义务教育教科书

数学

一年级

上册

人民教育出版社 课程教材研究所
小学数学课程教材研究开发中心 编著

人民教育出版社
·北京·

微信公众号：电子课本大全

小数一上书籍0611.indb 1 12-6-11 上午10:41

主　编：卢　江　杨　刚
副主编：王永春　陶雪鹤

义务教育教科书
数　学
一年级　上册
课　程　教　材　研　究　所
小学数学课程教材研究开发中心　编著
*
人民教育出版社 出版发行
网址：http://www.pep.com.cn
人民教育出版社 印刷厂印装　全国新华书店经销
*
开本：787毫米×1 092毫米　1/16　印张：　　字数：150 000
2012年4月第1版　2012年4月第1次印刷
ISBN 978-7-107-　-　定价：　　元
著作权所有·请勿擅用本书制作各类出版物·违者必究
如发现印、装质量问题，影响阅读，请与本社出版科联系调换。
（联系地址：北京市海淀区中关村南大街17号院1号楼　邮编：100081）

微信公众号：电子课本大全

编者的话



亲爱的小朋友：

上学了，你已经是小学生了。从现在开始，你要学习数学了。

你会数数吗？认识积木的形状吗？会看钟表吗？…… 这些都是我们要学习的数学。

数学是很有用的，学会它，你可以知道很多事情，能增长本领，还会解决很多问题。

打开这本书，你会看到许多有趣的游戏和活动，那可是一个神奇的数学天地噢！对了，给你介绍两位好朋友，他们是数学王国里的小精灵，会一直陪伴着你学习。



只要你爱动脑筋，多和老师、同学一起讨论，就会发现数学是多么的生动有趣！当你感到自己的本领一天一天地增长，该是多么愉快呀！

祝你好好学习，天天向上！

编者

2012 年 5 月

微信公众号：电子课本大全

目　录





1 准备课 2

2 位置 9

3 1~5的认识和加减法 14

4 认识图形（一） 34

5 6~10的认识和加减法 39



微信公众号：电子课本大全

6 11~20各数的认识 73

★ 数学乐园 82

7 认识钟表 84

8 20以内的进位加法 88

9 总复习 104



微信公众号：电子课本大全

1 准备课

数一数



微信公众号：电子课本大全

小数一上书籍0611.indb 2 12-6-11 上午10:41



微信公众号：电子课本大全

小数一上书籍0611.indb 3 12-6-11 上午10:41



1

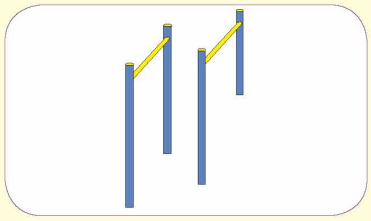

2

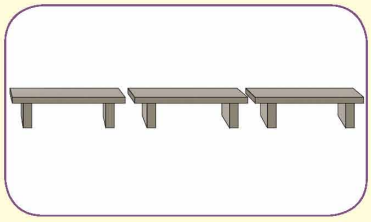

3



4



5

微信公众号：电子课本大全

小数一上书籍0611.indb 4 12-6-11 上午10:41

6



7



8

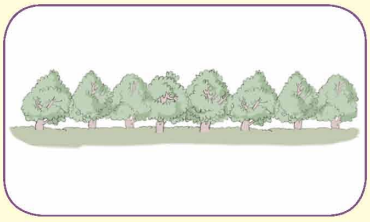

9



10



微信公众号：电子课本大全

小数一上书籍0611.indb 5 12-6-11 上午10:41

比多少



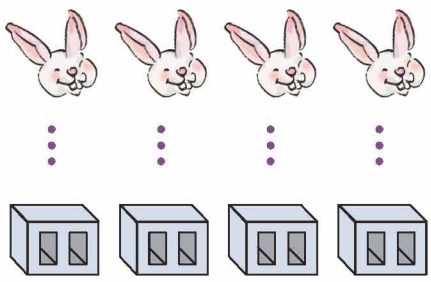

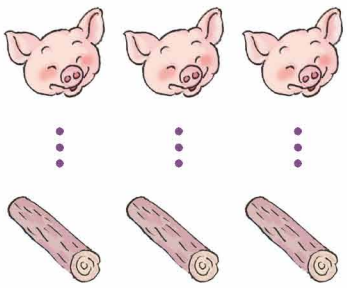

少

多

和 同样多。

图中还可以比什么？

微信公众号：电子课本大全

小数一上书籍0611.indb 6 12-6-11 上午10:42

做一做

1. 摆一摆。

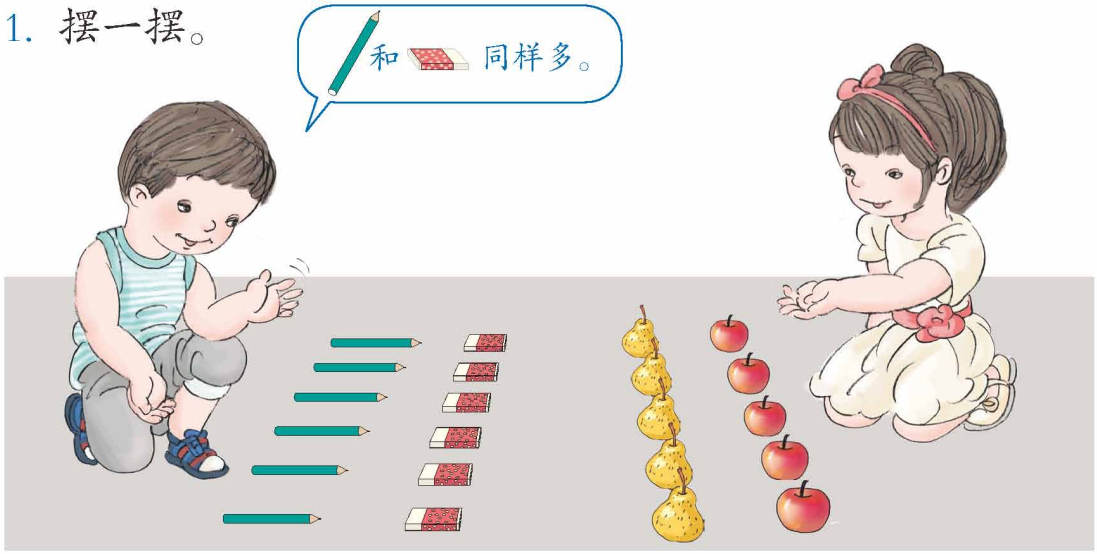

2. 摆一摆。



3. 在多的后面画“✓”。



在少的后面画“✓”。

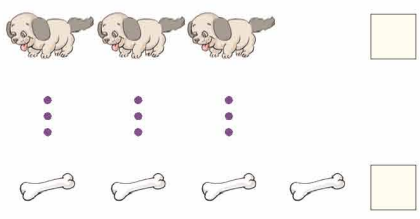

微信公众号：电子课本大全

小数一上书籍0611.indb 7 12-6-11 上午10:42

练习一

1. 数一数。





2. 连一连。



3. 在少的后面画“✓”。



4. 在多的后面画“✓”。

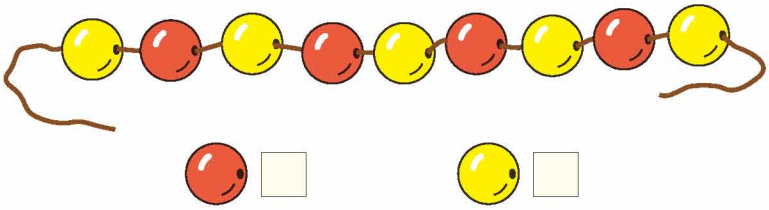

微信公众号：电子课本大全

小数一上书籍0611.indb 8 12-6-11 上午10:42

2 位置

上、下、前、后

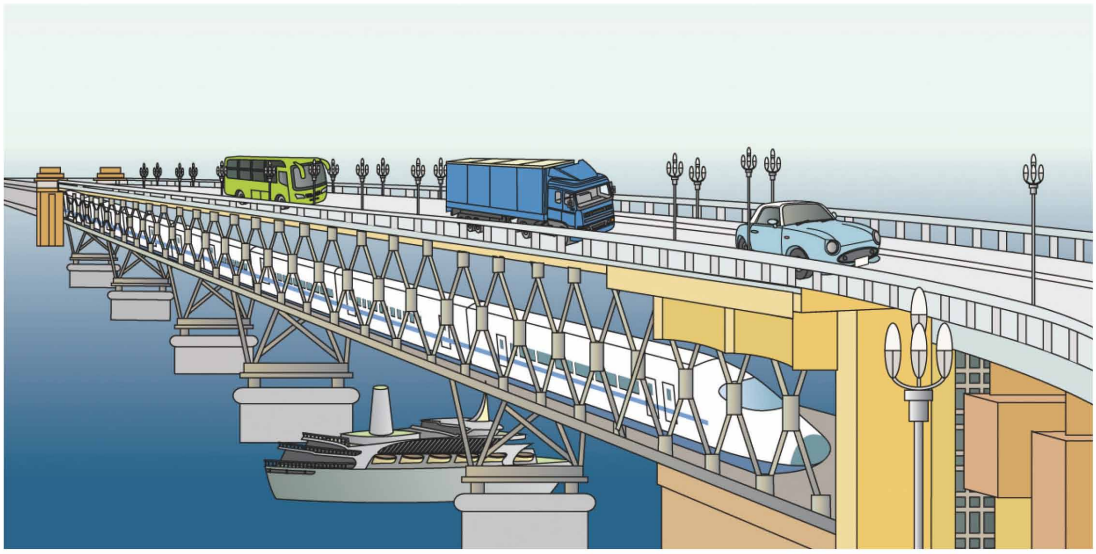

在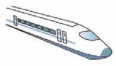的上面，

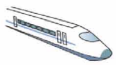在的下面，

的上面有什么？

在的前面，

在的后面，

的前面是 _____。

再看图说一说。



做一做

把 数学 放在 语文 的下面，把  放在 语文 的上面。



微信公众号：电子课本大全

小数一上书籍0611.indb 9 12-6-11 上午10:42

左、右



两只小手可以做什么？



做一做

1. 摸摸你的左耳，摸摸你的右耳。
   拍拍你的左肩，拍拍你的右肩。
   抬抬你的左腿，抬抬你的右腿。

2. 说一说你的前、后、左、右各是哪个同学。



微信公众号：电子课本大全

小数一上书籍0611.indb 10 12-6-11 上午10:42

练 习 二

1. 说一说，小东的前面是 _____，小云在小华的_____面。



看图再说一说。

2.



3. 把附页中的  、 贴在图中，再看图讲故事。



说一说，谁在谁的前面，谁在谁的后面，谁在谁的上面，谁在谁的下面。

微信公众号：电子课本大全

小数一上书籍0611.indb 11 12-6-11 上午10:42

4. 说一说下面的物品放在什么位置合适。





5.











从附页上剪下小动物图，贴一贴。



在  的左边贴 ，在  的上面贴 ，

在  的右边贴 ，在  的下面贴 。

微信公众号：电子课本大全

小数一上书籍0611.indb 12 12-6-11 上午10:42

6.

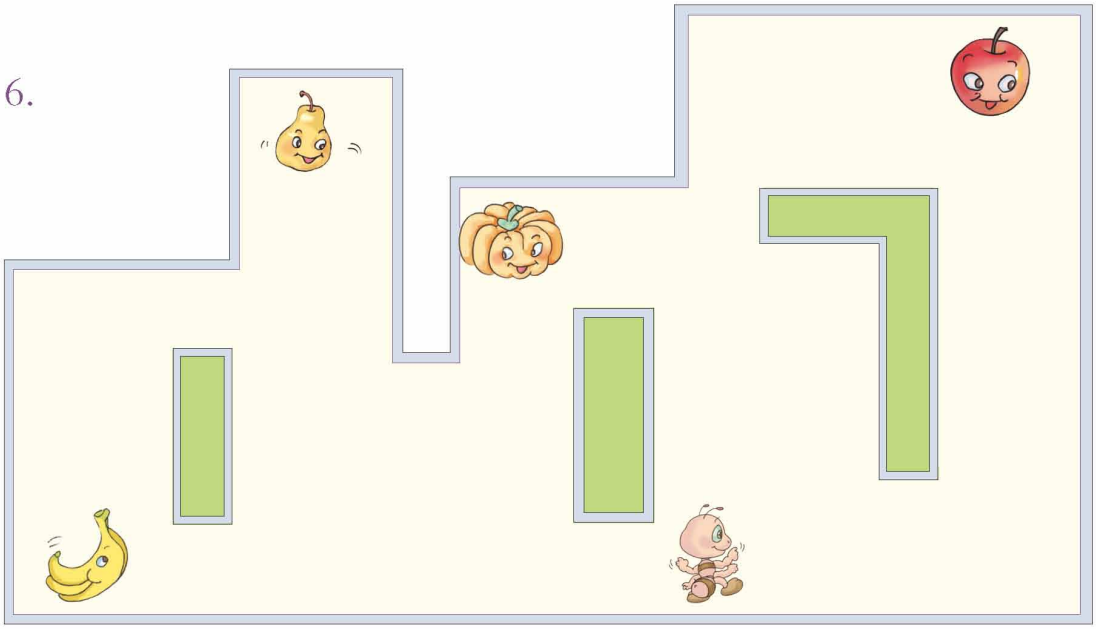

（1） 怎么走才能到  处？

（2） 要吃到  应该怎么走？

（3）你能提出一个问题，让同学来回答吗？

◎ 生活中的数学 ◎





本单元结束了，
你想说些什么？



成长小档案

★★

微信公众号：电子课本大全

小数一上书籍0611.indb 13 12-6-11 上午10:42

3 1~5 的认识和加减法

1~5 的认识









1　2　3







微信公众号：电子课本大全

小数一上书籍0611.indb 14　12-6-11 上午10:42





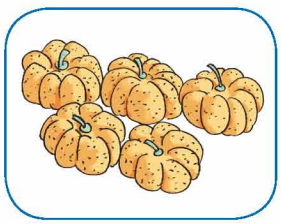

4

5



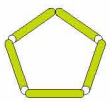

微信公众号：电子课本大全

小数一上书籍0611.indb 15 12-6-11 上午10:42

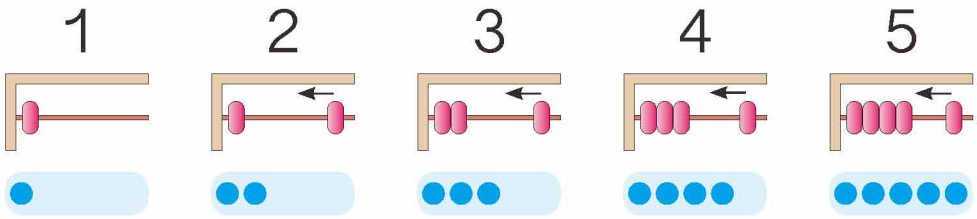

做一做

1. 连一连。

1 2 3 4 5

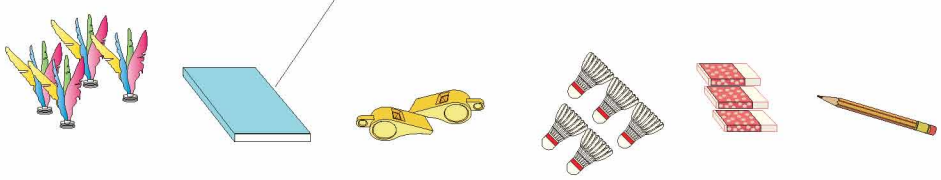

2. 写一写。



微信公众号：电子课本大全

小数一上书籍0611.indb 16 12-6-11 上午10:42

比多少



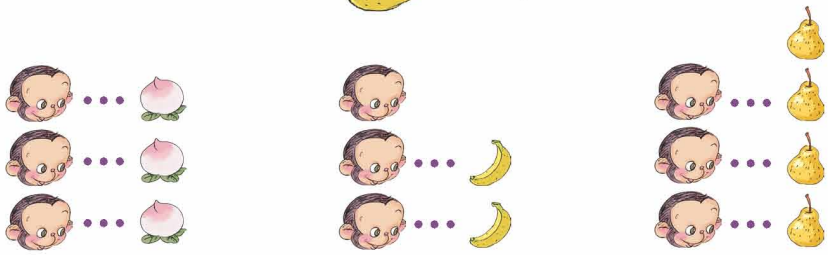

和 同样多

3 = 3

等号

3 等于 3

比 多

3 > 2

大于号

3 大于 2

比 少

3 < 4

小于号

3 小于 4

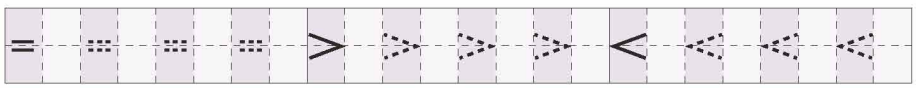

做一做

1.



2 = 2

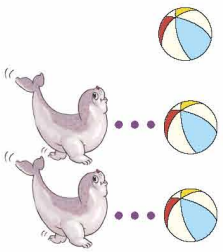

2 ○ 3

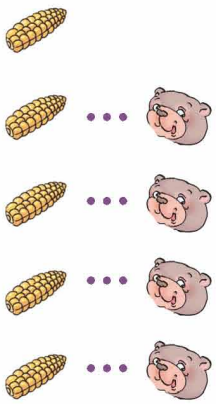

5 ○ 4

2. 5 > 2　　3 ○ 5　　4 ○ 3　　5 ○ 5　　4 ○ 1

微信公众号：电子课本大全

小数一上书籍0611.indb 17　　12-6-11 上午10:42

练习三

1. 看数涂色。

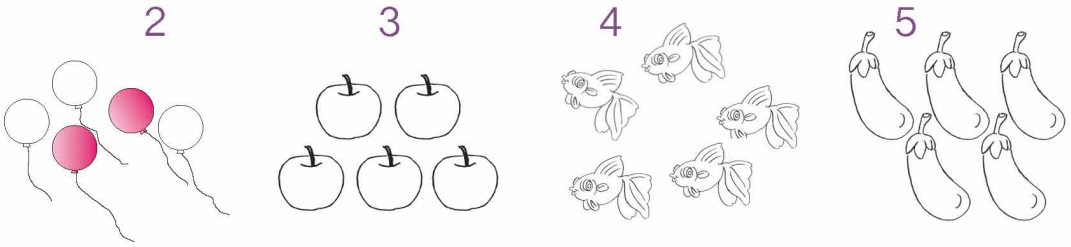

2. 按 1~5 的顺序连线。



3. 数一数，比一比。



( )只 ( )只 ( )只 ( )朵

□ ○ □ □ ○ □

4. 有几头 ？





微信公众号：电子课本大全

小数一上书籍0611.indb 18 12-6-11 上午10:42

5. 用自己的方式表示出1、2、3、4、5。



6. 涂一涂，比一比。



△和♡同样多 △△△△△ 4 = 4

○比♡多 ○○○○○ □○□

⬠比♡少 ⬠⬠⬠⬠⬠ □○□

7. 填一填。

4 ○ 2	4 ○ 5	3 ○ 1
4 > 2	□ < □	□ < □
□ < □	□ > □	□ > □

8. 下一个该涂什么颜色？涂一涂，数一数。

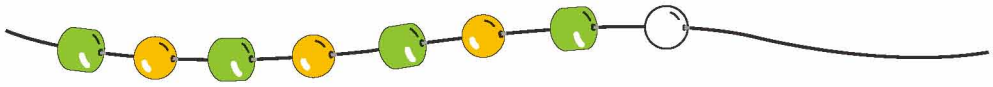

（ ）个 （ ）个



微信公众号：电子课本大全

小数一上书籍0611.indb 19 12-6-11 上午10:43

第几



第□ 第2 第□ 第□ 第□

有5人排队。


排第2，他前面有□人，后面有□人。


从图中还可以提出什么问题？

做一做

1.



明明获得第□名，
浩浩获得第□名，
丁丁获得第□名。

2.



两个□里的数表示的意思一样吗？

一共有□人。从左数，排第□。

微信公众号：电子课本大全

小数一上书籍0611.indb 20 12-6-11 上午10:43

分与合



把 4 个  放到两个筐里，有几种情况？



4 = 1 + 3　　4 = 2 + 2　　4 = 3 + 1

做一做

1.



2. 2 = 1 + □　　3 = 2 + □　　4 = □ + 3　　4 = □ + □

微信公众号：电子课本大全

小数一上书籍0611.indb 21　　12-6-11 上午10:43

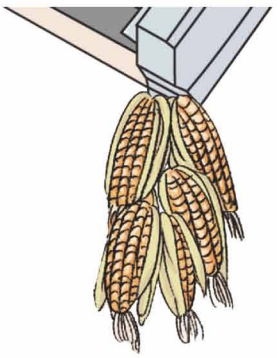

5个 放在两个 里，有几种放法？

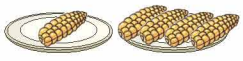

5

1　4



5

2　□



5

3　□



5

4　□

做一做

1. 摆一摆。



2. 涂一涂，填一填。

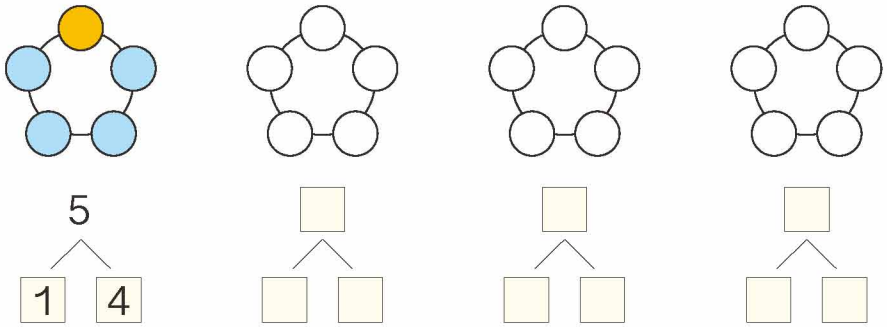

5

1　4

微信公众号：电子课本大全

小数一上书籍0611.indb 22　12-6-11 上午10:43

练 习 四

1. 

（1）把左边的 4 只小鸟圈起来。

（2）从左边数，给第 4 只小鸟涂上颜色。

（3）从右边数的第 1 只小鸟飞走了，还剩 ☐ 只小鸟。

2. 

遮（zhē）住的是第 ☐ 个和第 ☐ 个，遮住了 ☐ 个。

3. 5 只要飞进 2 个，每个能飞进同样多的吗？圈出正确答案。





能　　不能

4. 这个游戏公平吗？

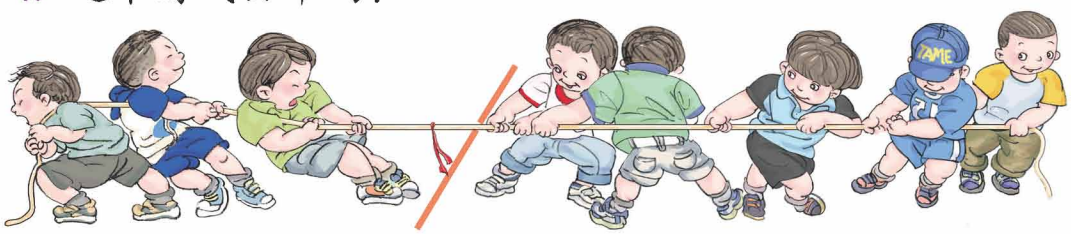

说一说怎样才能使这个游戏变得公平。

微信公众号：电子课本大全

小数一上书籍0611.indb 23　　12-6-11 上午10:43

加法 (1)

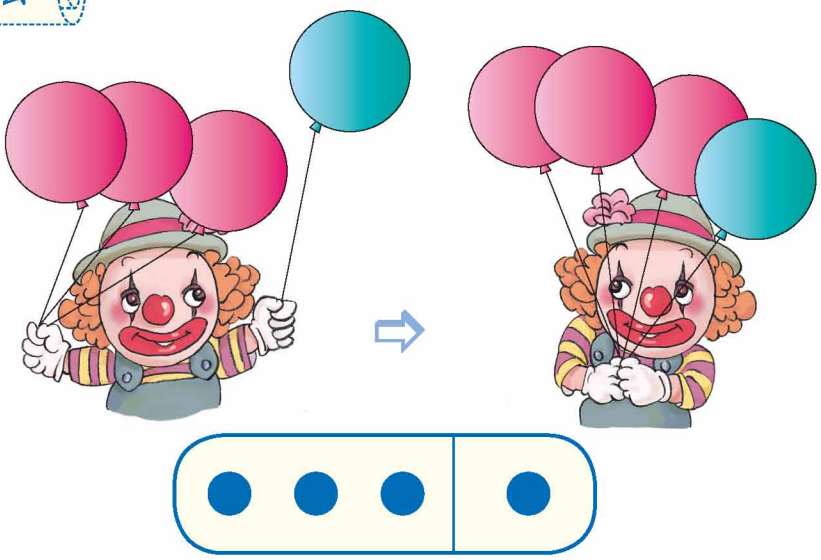

3+1=4　　读作：3 加 1 等于 4。

加号

做一做

看图说一说算式表示的意思。



2+2=4



4+1=5

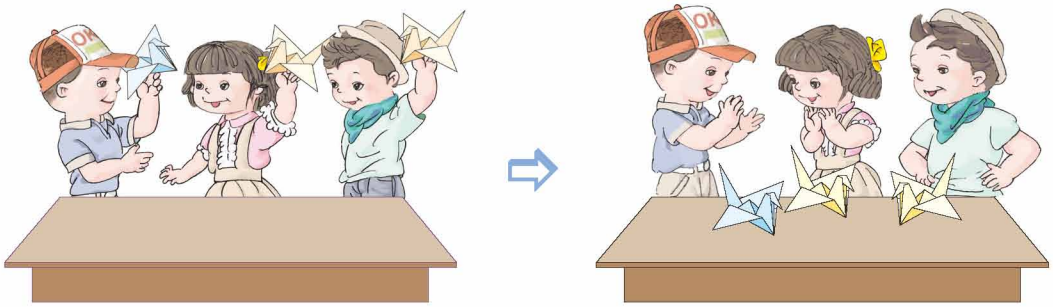

1+2=3

微信公众号：电子课本大全

小数一上书籍0611.indb 24　　12-6-11 上午10:43



做一做

1.



4+1=□　　1+4=□

2. 摆一摆，填一填。



1+3=□　　3+□=□

3. 先用  摆一摆，再填得数。

1+1=□　　2+1=□　　2+3=□

微信公众号：电子课本大全

小数一上书籍0611.indb 25　　12-6-11 上午10:43

减法

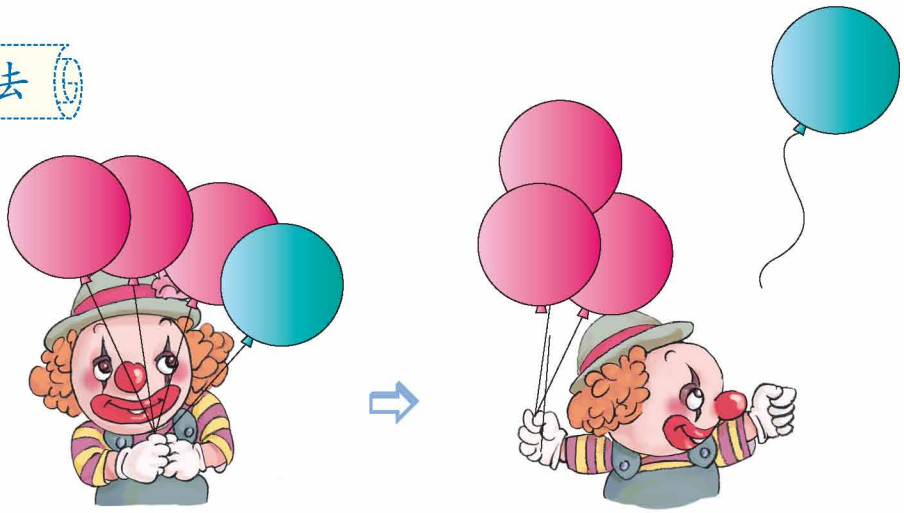



4－1=3　　读作：4减1等于3。

减号

做一做

看图说一说算式表示的意思。

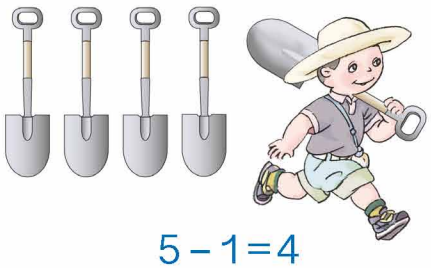

5－1=4



4－2=2

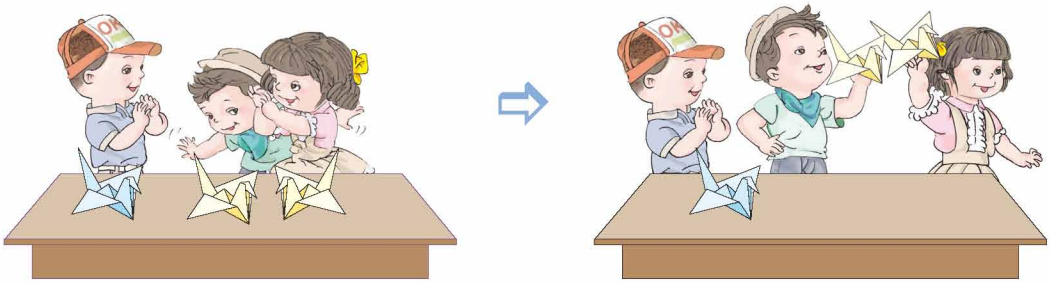

3－2=1

微信公众号：电子课本大全

小数一上书籍0611.indb 26　　12-6-11 上午10:43



5 − 3 = 2



从5倒着数，5、4、3，还剩2只。



做一做

1.





5 − 1 = □



5 − 4 = □

2. 划一划，填一填。



4 − 1 = □



4 − □ = □

3. 涂一涂，填一填。

3 − 1 = □

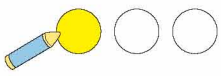

4 − 1 = □

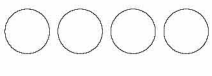

5 − 2 = □



微信公众号：电子课本大全

小数一上书籍0611.indb 27 12-6-11 上午10:43

练 习 五

1.

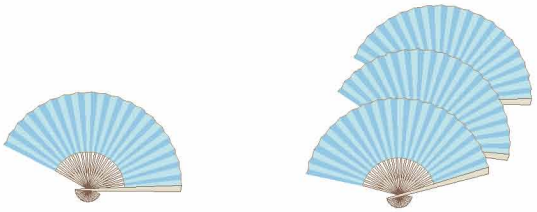

( ) 把

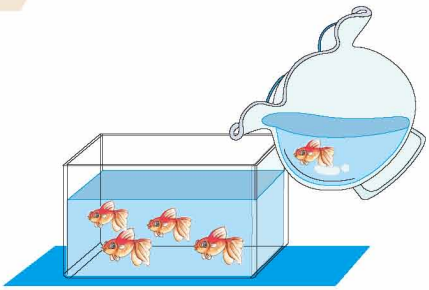

( ) 条

1+□=□　　□+1=□

2. 2+3=□　2+1=□　2+2=□
3+2=□　1+2=□　1+1=□

3.

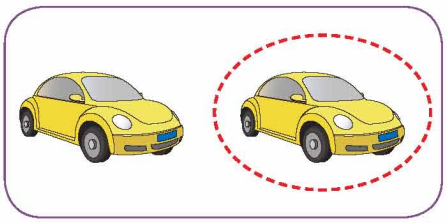

2−□=□

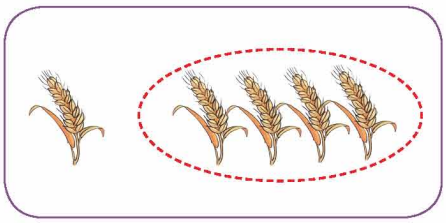

5−□=□

4. 5−2=□　4−3=□　3−1=□
5−3=□　4−1=□　3−2=□

5. 用自己的方式表示出下面算式的意思。

1+4=□　　4−2=□

微信公众号：电子课本大全

小数一上书籍0611.indb 28　12-6-11 上午10:43

6.



3 + ☐ = ☐



1 + ☐ = ☐



4 − ☐ = ☐

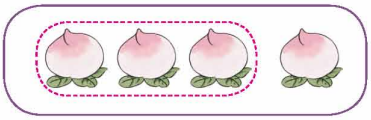

4 − ☐ = ☐

7.

4			
3	+ 1 =		
2			
1			

		4	
5 −	=	3	
		2	
		1	

8.



☐ + ☐ = ☐

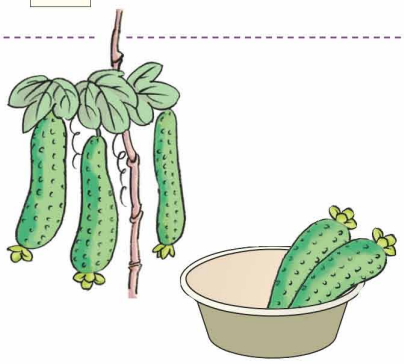

☐ − ☐ = ☐

9. 送信。

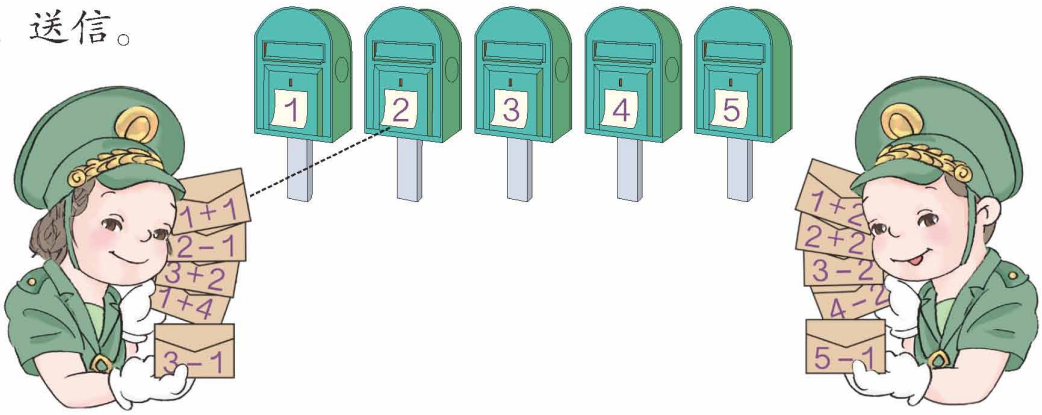

微信公众号：电子课本大全

小数一上书籍0611.indb 29 12-6-11 上午10:43

0



2　　1　　0

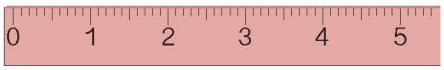





你在哪儿还见到过0？







3－3=0







4+0=4

做一做

0+5=□	0+4=□	0+3=□	0+2=□
5+0=□	4+0=□	3+0=□	2+0=□
5－0=□	4－0=□	3－0=□	2－0=□

微信公众号：电子课本大全

小数一上书籍0611.indb 30　　12-6-11 上午10:43

练 习 六

1.



（　　）条　　（　　）条　　（　　）条

2.

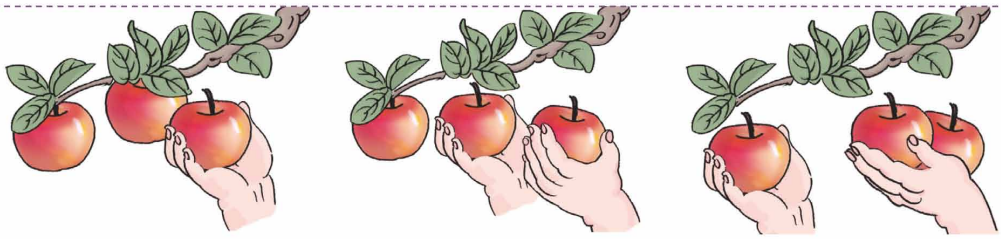

3 − 1 = □　　3 − □ = □　　3 − □ = □

3.



4 − □ = □
4 − □ = □
4 − □ = □
4 − □ = □

4.

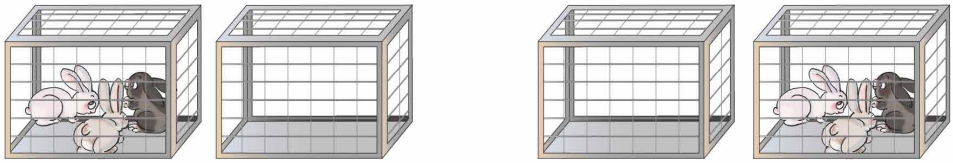

3 + □ = □　　0 + □ = □

5. 看谁算得都对。

1 − 0 = □	2 + 3 = □	2 − 1 = □	0 − 0 = □
3 − 2 = □	2 − 2 = □	0 + 0 = □	5 − 3 = □
2 + 1 = □	1 − 1 = □	1 + 4 = □	1 + 0 = □
0 + 1 = □	1 + 2 = □	5 − 5 = □	3 − 1 = □

微信公众号：电子课本大全

小数一上书籍0611.indb 31　　12-6-11 上午10:43

整理和复习

1. 数一数，比一比。



（　）头　（　）只　（　）只

□ ○ □　　□ ○ □

2.

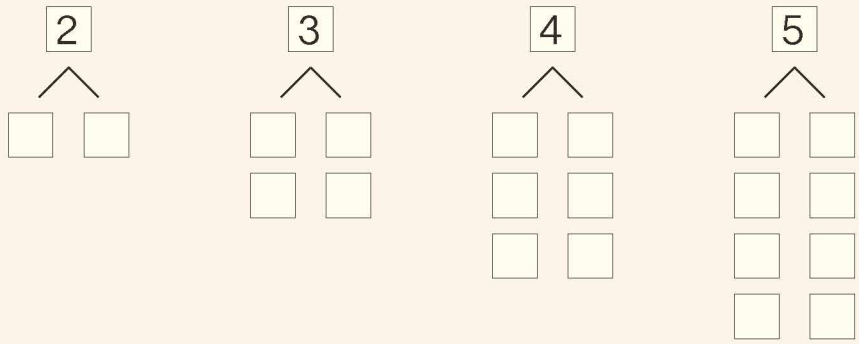

3. 在卡片上写出学过的加减法算式并进行整理。

0+0					
1+0	0+1				
2+0	1+1	0+2			
3+0	2+1	1+2	0+3		
4+0	3+1	2+2	1+3	0+4	
5+0	4+1	3+2	2+3	1+4	0+5

0−0					
1−0	1−1				
2−0	2−1	2−2			
3−0	3−1	3−2	3−3		
4−0	4−1	4−2	4−3	4−4	
5−0	5−1	5−2	5−3	5−4	5−5

（1）说一说左面的加法算式和减法算式各是怎样排列的。

（2）任意指一道算式很快说出得数。

（3）计算第一列算式，你发现了什么？

微信公众号：电子课本大全

小数一上书籍0611.indb 32　12-6-11 上午10:43

练 习 七

1. 按顺序填数。



2. 看谁算得都对。

1+3=□	5+0=□
3+1=□	0+5=□
4−3=□	5−0=□
4−1=□	5−5=□

3.



□ ○ □ = □



□ ○ □ = □

4.



比 多_____。



比 少_____。

5. □里可以填几？

□ >3　　□ <5

4> □　　2< □

本单元结束了，
你想说些什么？

两个同样的数相减得0。

3−3=0
5−5=0
……

1可以表示1个太阳、1个人、1棵树……真有意思！



成长小档案

★★★

微信公众号：电子课本大全

小数一上书籍0611.indb 33　　12-6-11 上午10:43

4 认识图形（一）





说一说，你身边哪些物体与上面这些形状相同。

微信公众号：电子课本大全

小数一上书籍0611.indb 34 12-6-11 上午10:43

做一做

1. 你能发现什么？



2.





做一做

哪些形状是用4个□拼成的？在（　）里画“✓”。

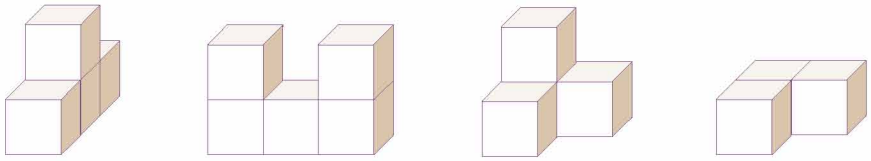

（　）　（　）　（　）　（　）

微信公众号：电子课本大全

小数一上书籍0611.indb 35　12-6-11 上午10:43

看谁搭得又稳又高。

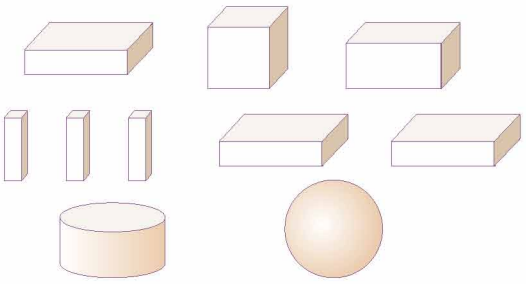



知道了什么？



怎样搭呢？





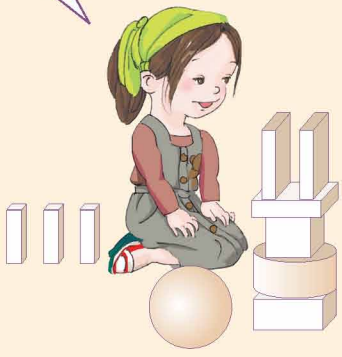



谁搭得高？



微信公众号：电子课本大全

小数一上书籍0611.indb 36 12-6-11 上午10:43

练 习 八

1. 连一连。

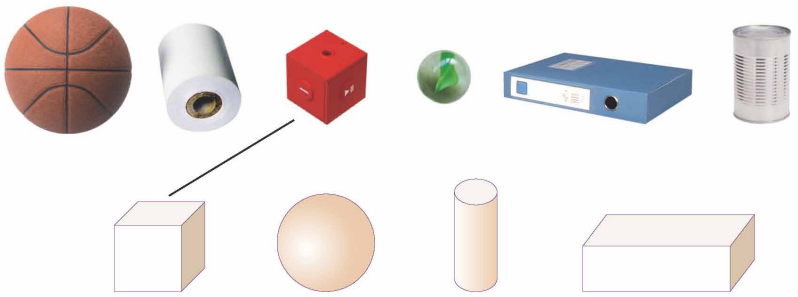

2.

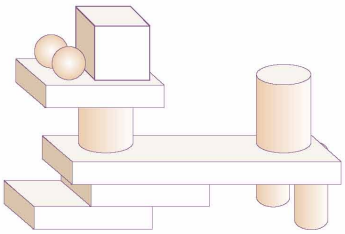

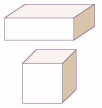

（　）个

（　）个



（　）个



（　）个

3. 我说你猜。



4. 用 4 个相同的 ，你能拼出几种不同的长方体？

5. 搭积木，说一说你搭得像什么。



微信公众号：电子课本大全

小数一上书籍0611.indb 37　12-6-11 上午10:43

6. 数一数。

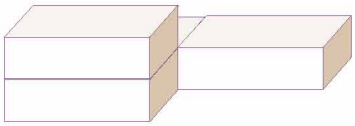

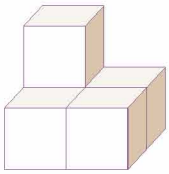

（　　）个 　　（　　）个 

7. 我说你搭。



8. 接着摆什么？圈出正确答案。



___（  ）



___（ 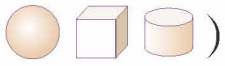 ）

本单元结束了，你想说些什么？

我知道了怎样把球放稳。

成长小档案

★★★★

我发现生活中到处都有立体图形。



微信公众号：电子课本大全

小数一上书籍0611.indb 38　12-6-11 上午10:44

5 6~10 的认识和加减法

6 和 7











6

7

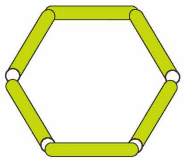

用 7 根 摆一摆。

微信公众号：电子课本大全

小数一上书籍0611.indb 39 12-6-11 上午10:44

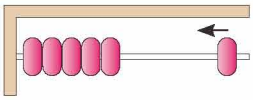

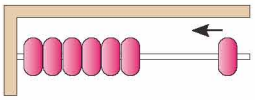

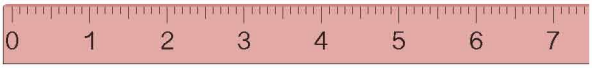







5 < 6

6 ○ 5

6 ○ 7

7 ○ 6



一共有□缸鱼。

从左边数第 7 缸有□条 ，

有 7 条  的是第□缸，

同桌之间互相提一个问题。

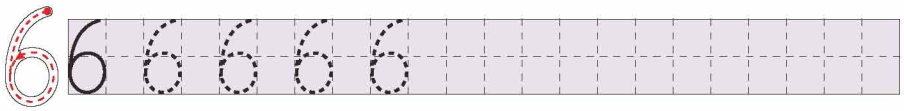

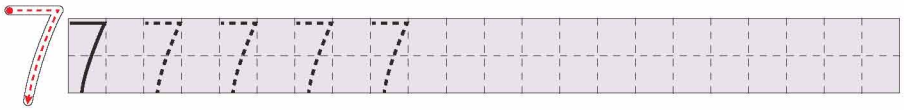

微信公众号：电子课本大全

小数一上书籍0611.indb 40 12-6-11 上午10:44

涂一涂，填一填。

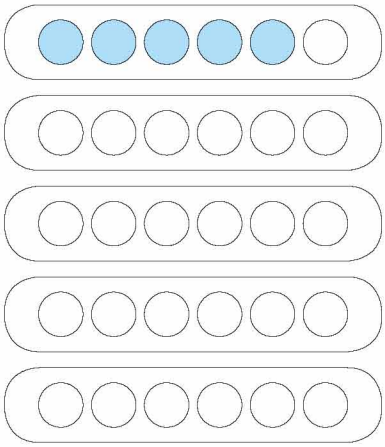

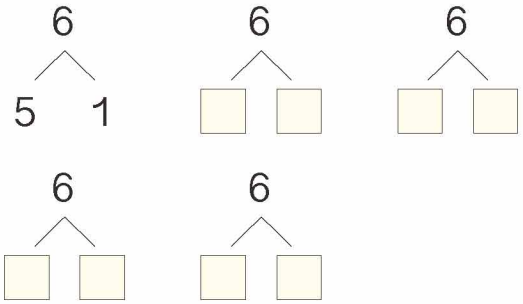

7 个 □ 分成两堆，有几种分法？

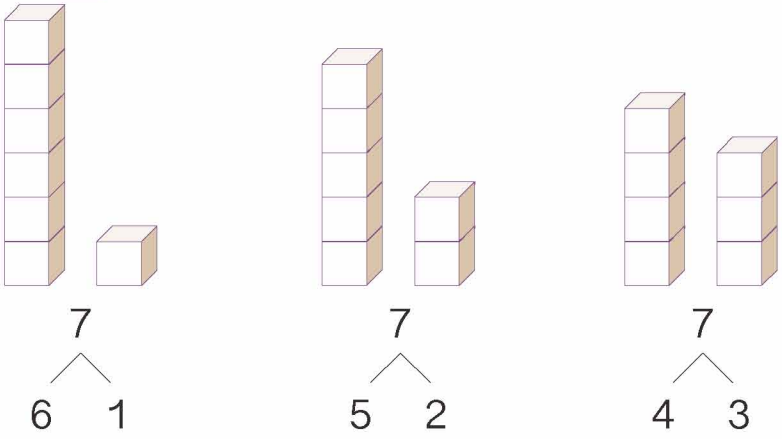

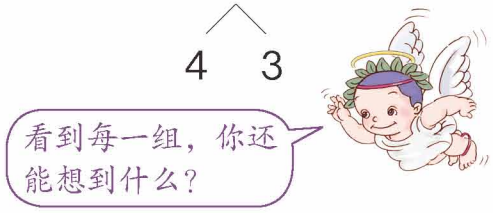

做一做

1.



2. 再画几个○就是 7 个？请你接着画。

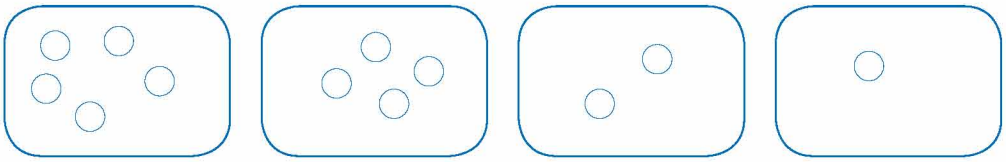

微信公众号：电子课本大全

小数一上书籍0611.indb 41 12-6-11 上午10:44





5+1=6
1+5=6

6−1=5
6−5=1

摆一摆，填一填。



4+2=□
2+4=□
6−2=□
6−4=□

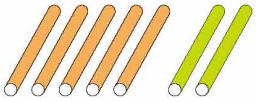

5+2=□
2+5=□
7−2=□
7−5=□



3+3=□

6−3=□

做一做



3+4=□
4+3=□
7−3=□
7−4=□

微信公众号：电子课本大全

小数一上书籍0611.indb 42 12-6-11 上午10:44

练 习 九

1. 按顺序填数。

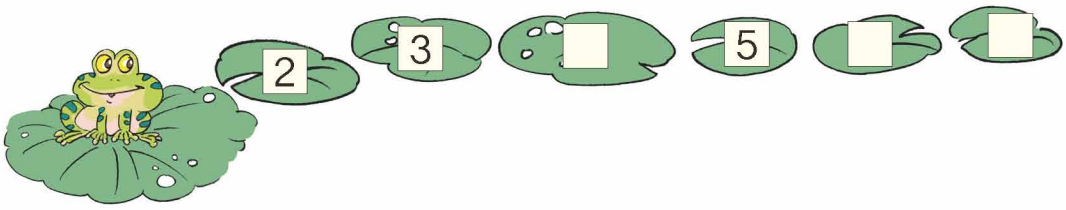

2. 数一数，比一比。

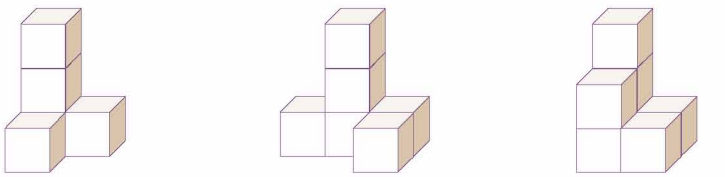

（ ）个　　（ ）个　　（ ）个

□ ○ □　　□ ○ □

3.



把右边的 6 只熊猫圈起来。

在左边数第 7 只熊猫的上面画 1 个○。

4.

6

1		2		3
	1		2	

7

1		2		3	
	1		2		3

微信公众号：电子课本大全

小数一上书籍0611.indb 43　　12-6-11 上午10:44

5. 哪两张卡片上点子的数相加得 6？

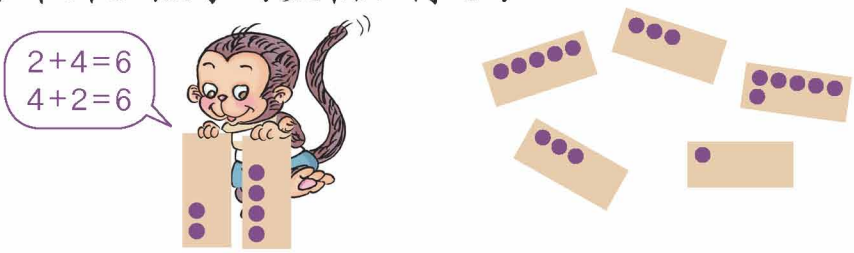

哪两张卡片上点子的数相加得 7？

6.

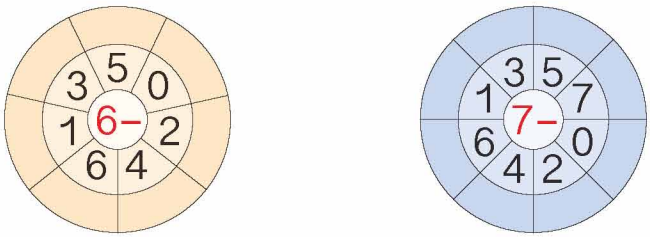

7. 抄写算式并计算。

0+4=　　6−3=　　2+5=

8.

6−5	0	7−6	2
2+4	1	7−1	7
5−3	2	4+3	1
7−7	6	6−4	6

9. 拿出两张数字卡片，用大的数减小的数。



微信公众号：电子课本大全

小数一上书籍0611.indb 44　　12-6-11 上午10:44

10. 0+7=　　7−5=　　1+6=　　7−3=
4−2=　　2+4=　　7−4=　　6−4=
5−0=　　6−3=　　2+5=　　5−3=

11. 6 + 1 = □

5 + 0 = □
　 2 = □

4 + 3 = □
　 2 = □
　 1 = □

3 + 2 = □
　 4 = □
　 1 = □
　 3 = □

12. 说一说图的意思，再计算。

5 + □ = □

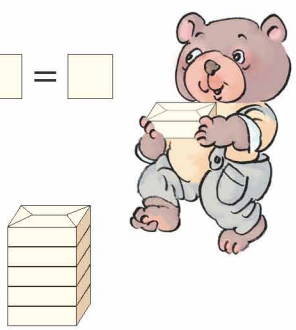

6 − □ = □



◎ 生活中的数学 ◎



微信公众号：电子课本大全

小数一上书籍0611.indb 45　　12-6-11 上午10:44



？只

图里有什么？



左边有□只，

右边有□只。

？只 表示 求一共有几只。



怎样解答？

求一共有几只，要把两部分合起来，怎样计算？



□ ○ □ = □（只）



解答正确吗？

一共有□只。

做一做



？只

左边有□只，

右边有□只。

一共有几只？

□ ○ □ = □（只）

微信公众号：电子课本大全

小数一上书籍0611.indb 46 12-6-11 上午10:44



图里有什么？





一共有□只，

跳走□只。

怎样解答？



□ ○ □ = □（只）



解答正确吗？

还剩□只。

做一做

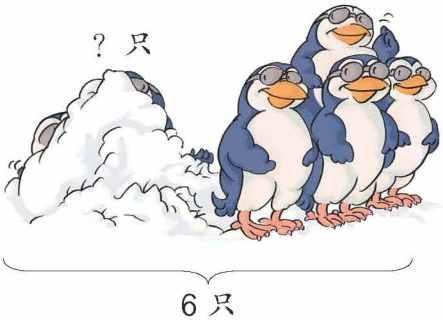

一共有□只，

右边有□只。

左边有几只？

□ ○ □ = □（只）

微信公众号：电子课本大全

小数一上书籍0611.indb 47 12-6-11 上午10:44

练 习 十

1.



? 条

左边有 □ 条鱼，
右边有 □ 条鱼。
一共有几条鱼？

□ ○ □ = □（条）

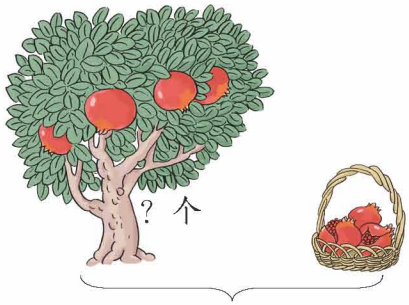

7 个

一共有 □ 个 ，
摘了 □ 个 。
树上还有几个 ？

□ ○ □ = □（个）

2. 7－4= □　5－1= □　2+5= □　6－2= □
2+3= □　6+0= □　4－2= □　4+3= □

3. 拿出点子卡片 ，每次盖住一部分，说出一个减法算式。再换成 ，照样子说一说。

4. 说一说图中告诉我们什么，要解决的问题是什么，再解答。

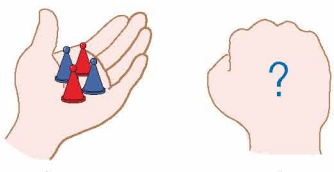

6 个

□ ○ □ = □（个）



? 朵

□ ○ □ = □（朵）

微信公众号：电子课本大全

小数一上书籍0611.indb 48　12-6-11 上午10:44

5.

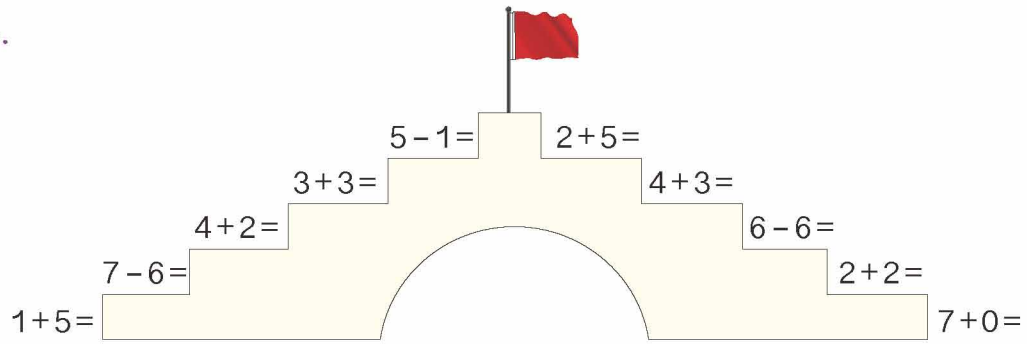

6. 说出要解决的问题，再解答。



微信公众号：电子课本大全

小数一上书籍0611.indb 49 12-6-11 上午10:44

8和9





8

摆8个●。



9

摆9个▲。

微信公众号：电子课本大全

小数一上书籍0611.indb 50 12-6-11 上午10:44

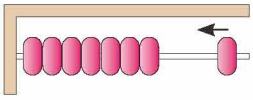

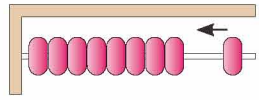









7 ○ 8

8 ○ □

8 ○ 9

9 ○ □

把左边的 8 只小动物圈起来，给从左边数的第 8 只小动物画上  。



老鼠排第 1，谁排第 9？  排第几？

同桌之间像上面这样互相提一个问题。

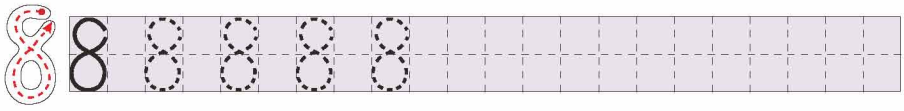



微信公众号：电子课本大全

小数一上书籍0611.indb 51 12-6-11 上午10:44

8 个★分成两组，有几种分法？

★★★★★★★★





用●摆一摆。





做一做

1.



2. （1）圈出能组成 8 的两个数。

2	6	1	9
4	3	7	2
5	4	8	1

（2）圈出能组成 9 的两个数。

6	1	7	8
3	2	4	1
9	4	5	3

微信公众号：电子课本大全

小数一上书籍0611.indb 52 12-6-11 上午10:44



5+3=8
3+5=8
8−5=3
8−3=5

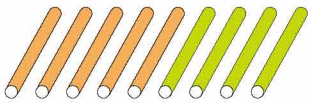

5+4=9
4+5=9
9−5=4
9−4=5

填一填。

6+2=□　　6+3=□
2+6=□　　3+6=□
8−2=□　　9−3=□
8−6=□　　9−6=□



想一想。

4+4=□　　8−4=□

做一做

1.
7+1=□　　7+2=□　　8+1=□
1+7=□　　2+7=□　　1+8=□
8−1=□　　9−2=□　　9−1=□
8−7=□　　9−7=□　　9−8=□

2.



第 1 盆有 7 朵花，第___盆和第___盆合起来有 8 朵花，
第___盆和第___盆合起来有 9 朵花。

微信公众号：电子课本大全

小数一上书籍0611.indb 53　　12-6-11 上午10:44

练 习 十 一

1. 按 0 ~ 9 的顺序连线。

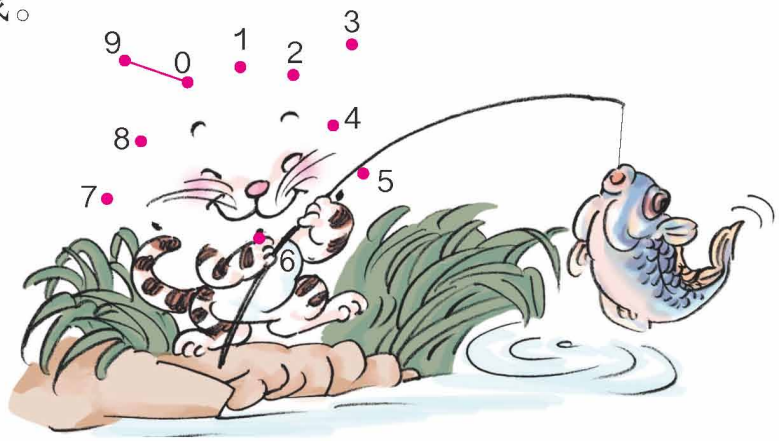

2. 数一数，比一比。



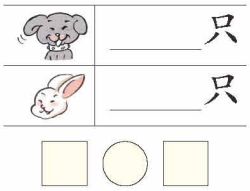

3.

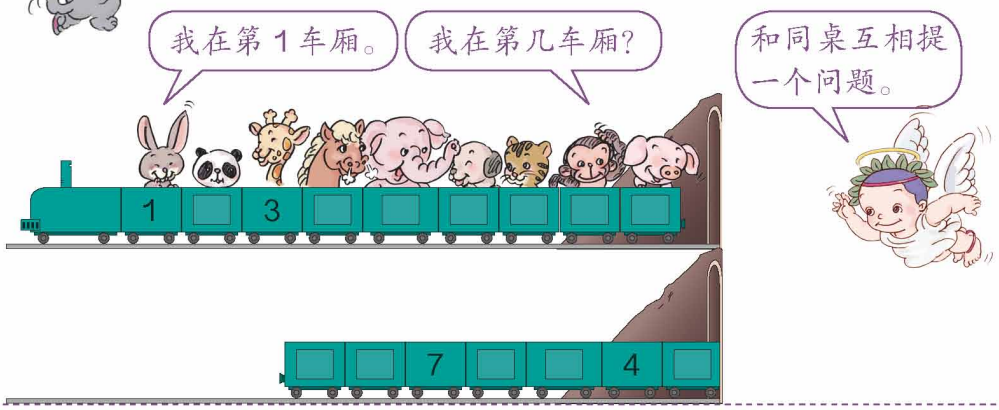

4.

8 <

1		2		3		4	
	1		2		3		

9 <

1		2		3		4		
	1		2		3		4	

微信公众号：电子课本大全

小数一上书籍0611.indb 54 12-6-11 上午10:44

5. 找朋友。



6.

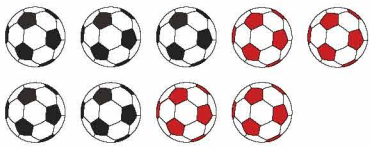



5 + 4 = □　　9 − 4 = □　　6 + 2 = □　　8 − 2 = □

4 + □ = □　　9 − □ = □　　2 + □ = □　　8 − □ = □

7. 哪两张卡片上的数相加得 8？
哪两张卡片上的数相加得 9？

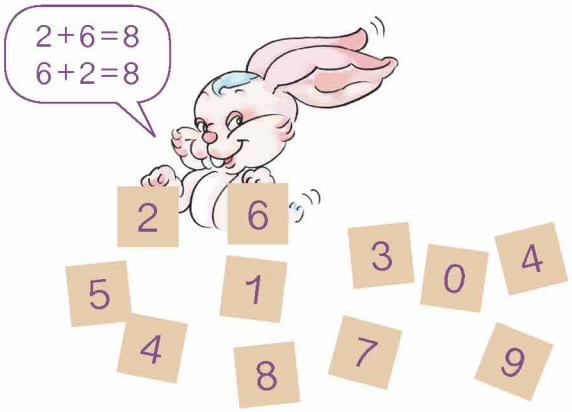

8.

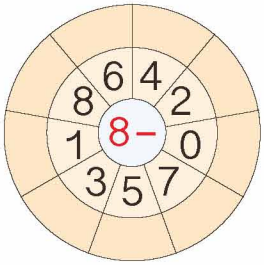

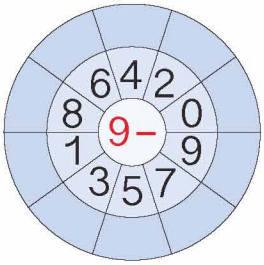

9. 抄写算式并计算。

3+5=　　9−8=　　2+7=

微信公众号：电子课本大全

小数一上书籍0611.indb 55　　12-6-11 上午10:44

10. 看谁算得都对。

5+2=□　9−7=□　1+8=□　9−3=□

8−4=□　3+6=□　7−4=□　0+6=□

11.

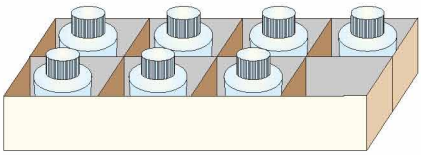

7+□=8

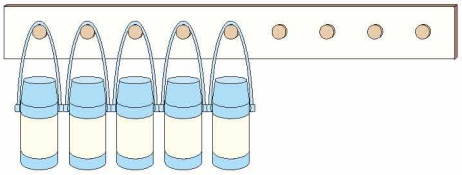

5+□=9

12.

6−2=□　3+3=□

7−2=□　4+3=□

8−2=□　5+3=□

9−2=□　6+3=□



13.



□比□多____。



□比□少____。

14. 用下面的数，你能写出几组算式？

2　5　7　0　8　6　3　1　4　9

□+□=□　□−□=□

□+□=□　□−□=□

□+□=□　□−□=□

□+□=□　□−□=□

微信公众号：电子课本大全

小数一上书籍0611.indb 56　12-6-11 上午10:45



关于，从图中你知道了什么？



一共有□只，

跑走□只。



怎样解答？



□ ○ □ = □（只）



解答正确吗？

还剩□只。

从图中你能提出其他数学问题并解答吗？

微信公众号：电子课本大全

小数一上书籍0611.indb 57 12-6-11 上午10:45

练 习 十 二

1.



一共有几个？

□ ○ □ = □（个）

一共有 8 只 。



还剩几只 ？

□ ○ 4 = □（只）

2.

9－3=	0+9=	3+4=	6+2=
2+4=	8－1=	2+7=	7－5=
5+3=	4+4=	8－6=	6－3=

3.



这里一共有 9 个 。

从图中你能提出数学问题并解答吗？

微信公众号：电子课本大全

小数一上书籍0611.indb 58 12-6-11 上午10:45

10





10

摆 10 朵 。

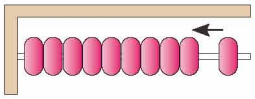







9 ○ □

10 ○ □

微信公众号：电子课本大全

小数一上书籍0611.indb 59 12-6-11 上午10:45

先用 摆一摆，再填数。

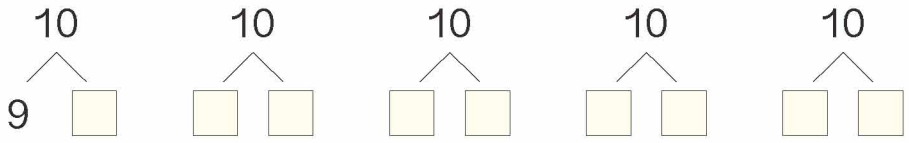



10 10 10 10 10

做一做

哪两个数合起来是 10？

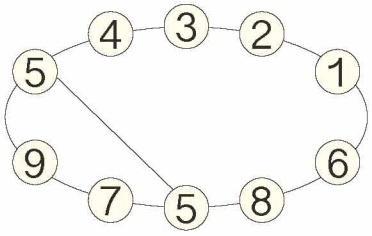



◎ 你知道吗？◎

我国古代用算筹（chóu）来表示数。

	1	2	3	4	5	6	7	8	9
纵式	𝍠	𝍡	𝍢	𝍣	𝍤	𝍥	𝍦	𝍧	𝍨
横式	𝍩	𝍪	𝍫	𝍬	𝍭	𝍮	𝍯	𝍰	𝍱

算筹是用竹、木或骨等制成的细棍。

微信公众号：电子课本大全

小数一上书籍0611.indb 60 12-6-11 上午10:45



1+9=□
9+1=□
10−1=□
10−9=□





2+□=□

10−2=□
10−□=□



3+□=□

10−3=□
10−□=□



□+6=□

10−□=□
10−□=□

想一想。

5+5=□

10−5=□

做一做

1. 找朋友。





2.

8		2		
6	+	4	=	
7		3		

10 −

0		
8	=	
9		

微信公众号：电子课本大全

小数一上书籍0611.indb 61 12-6-11 上午10:45

练 习 十 三

1.

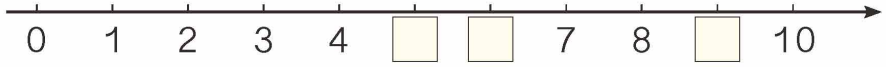

2.

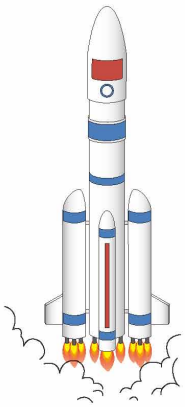



3.

10									
	9	2		4		6		8	
	1		3		5		7		9

4. 哪两张卡片上的数相加得 10？



5.



微信公众号：电子课本大全

小数一上书籍0611.indb 62 12-6-11 上午10:45

6.

10 = 1 + □　　1 + □ = 10　　10 − 1 = □

10 = □ + □　　□ + □ = 10　　10 − □ = 1

□ − □ = □

□ − □ = □

7. 画一画，填一填。

●●● ＿＿＿＿＿＿　3 + □ = 10

●●●●● ＿＿＿＿＿＿　5 + □ = 10

●●●●●●●● ＿＿＿＿　8 + □ = 10

8. 9 + 1 = □

8 = 1 + 2

1 = □

2 = □

7 = 3 + 1 + 2

3 = □

1 = □

2 = □

6 = 2 + 4 + 1 + 3

2 = □

4 = □

1 = □

3 = □

9. 看谁算得都对。

8+0=	3+4=	9−2=	4+5=
9−6=	7−4=	5+2=	10−8=

10. 一共有 10 个 。



还剩几个？

□ ○ □ = □（个）

6 个



一共有多少个？

□ ○ □ = □（个）

微信公众号：电子课本大全

小数一上书籍0611.indb 63　12-6-11 上午10:45

11. 在○里填上“>”“<”或“=”。

3+6 ○ 9　　2+4 ○ 7　　7+3 ○ 9

10−4 ○ 8　　9−3 ○ 5　　9+0 ○ 9

12. 说一说图中哪些可以用 7+3=10 表示。



13.





比 ＿＿ 多＿＿。



比 少＿＿。

把 0、1、2、3、4、5、6、7、8、9 十个数填在□里，每个数只用一次。



□ + □ = □ + □ = □ + □ = □ + □ = □ + □

微信公众号：电子课本大全

小数一上书籍0611.indb 64　　12-6-11 上午10:45

连加 连减



5 + 2 + 1 = 8

7



8 − 2 − 2 = 4

6

做一做

填一填。

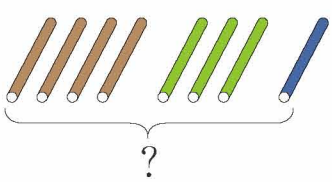

4+3+ □ = □



10 − 3 − □ = □

微信公众号：电子课本大全

小数一上书籍0611.indb 65 12-6-11 上午10:45

练 习 十 四

1. $2+3=\square$　　$4+2=\square$　　$1+2=\square$

   $5+4=\square$　　$6+4=\square$　　$3+3=\square$

   $2+3+4=\square$　　$4+2+4=\square$　　$1+2+3=\square$

2. 

   $3+\square+\square=\square$

   

   $6+\square+\square=\square$

3. $3+4+1=$　　$4+3+2=$　　$7+2+1=$

   $2+2+4=$　　$5+0+3=$　　$6+4+0=$

4. 

   8 辆

   $8-4-\square=\square$

   

   10 块

   $10-3-\square=\square$

5. $8-5-3=$　　$7-2-3=$　　$10-4-5=$

   $6-2-1=$　　$10-6-2=$　　$9-3-6=$

   $9-5-4=$　　$8-0-8=$　　$5-1-3=$

6. 填数，使横排、竖排的三个数相加都得 9。

	1	
2	3	

微信公众号：电子课本大全

小数一上书籍0611.indb 66　　12-6-11 上午10:45

加减混合

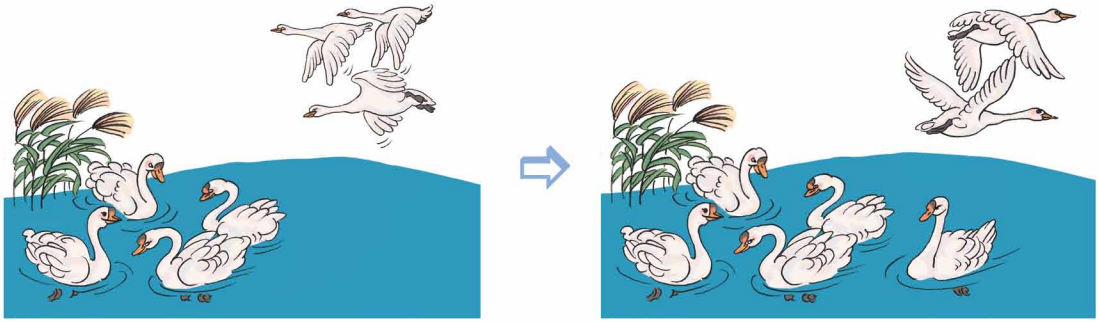

$4 + 3 - 2 = 5$

7

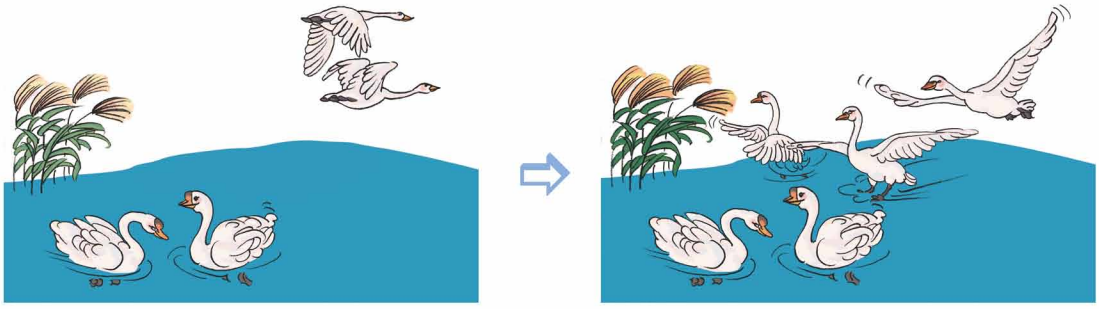

$4 - 2 + 3 = \square$

$\square$

做一做



$6 \bigcirc \square \bigcirc \square = \square$

微信公众号：电子课本大全

小数一上书籍0611.indb 67 12-6-11 上午10:45

练习十五

1. 连一连。

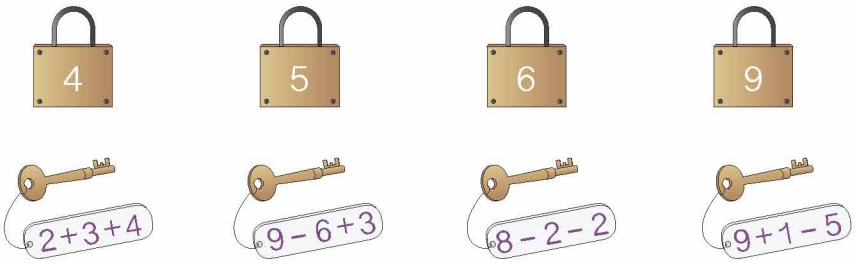

2. 抄写算式并计算。

4+5-7=　　3+7-2=

3. 1+4+5=
10-4-4=
2+7+0=
7-6+5=
8-1-3=
2+6-7=

4. 每行、每列上的三个数相加，各得多少？

	3	
2	1	5
	4	

(　)

1	6	3
4	2	2
3	1	5

(　)
(　)
(　)
(　)(　)(　)

5.



6. 6+□=10　　7+□=10　　9+□=10
8+□=10　　5+□=10　　10+□=10

微信公众号：电子课本大全

小数一上书籍0611.indb 68　　12-6-11 上午10:45

整理和复习

1. 这一单元你学习了哪些数？请你写出来。



在□层，在□层。这栋楼一共有□层。

2. 在卡片上写出10以内所有的加法算式并进行整理，说说自己是怎样整理的。

0+0										
1+0	0+1									
2+0	1+1	0+2								
3+0	2+1	1+2	0+3							
4+0	3+1	2+2	1+3	0+4						
5+0	4+1	3+2	2+3	1+4	0+5					
6+0	5+1	4+2	3+3	2+4	1+5	0+6				
7+0	6+1	5+2	4+3	3+4	2+5	1+6	0+7			
8+0	7+1	6+2	5+3	4+4	3+5	2+6	1+7	0+8		
9+0	8+1	7+2	6+3	5+4	4+5	3+6	2+7	1+8	0+9	
10+0	9+1	8+2	7+3	6+4	5+5	4+6	3+7	2+8	1+9	0+10

（1）说一说表里的算式是怎样排列的。

（2）任意指一道算式很快说出得数。

（3）计算最后一行算式，你发现了什么？

微信公众号：电子课本大全

小数一上书籍0611.indb 69 12-6-11 上午10:45

3. 在卡片上写出 10 以内所有的减法算式并进行整理，说说自己是怎样整理的。

0－0										
1－0	1－1									
2－0	2－1	2－2								
3－0	3－1	3－2	3－3							
4－0	4－1	4－2	4－3	4－4						
5－0	5－1	5－2	5－3	5－4	5－5					
6－0	6－1	6－2	6－3	6－4	6－5	6－6				
7－0	7－1	7－2	7－3	7－4	7－5	7－6	7－7			
8－0	8－1	8－2	8－3	8－4	8－5	8－6	8－7	8－8		
9－0	9－1	9－2	9－3	9－4	9－5	9－6	9－7	9－8	9－9	
10－0	10－1	10－2	10－3	10－4	10－5	10－6	10－7	10－8	10－9	10－10

（1）说一说表里的算式是怎样排列的。

（2）任意指一道算式很快说出得数。

（3）计算第一列算式，你发现了什么？

4. 说说要解决什么问题，要找什么信息并解答。



一共有多少只？ □ ○ □ = □（只）

5.





说一说图的意思并用算式表示。□ ○ □ ○ □ = □

微信公众号：电子课本大全

小数一上书籍0611.indb 70 12-6-11 上午10:45

练 习 十 六

1.



2. 看谁算得都对。

3+2=	2+7=	10−9=	3+6=
7−4=	8−4=	6+4=	10−7=
6+3=	5+5=	1+8=	8+2=
9−4=	7+3=	9−8=	5−5=

3. 说一说图的意思，再解答。



□ ○ □ = □（只）

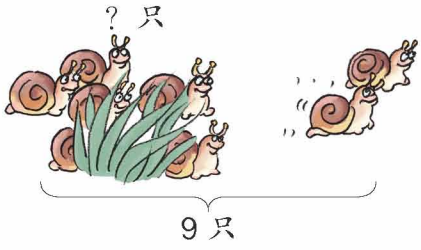

□ ○ □ = □（只）

4. 3+3+3=　　7+2−5=　　9−2−2=　　10−6+5=

5.





从图中你能提出数学问题并解答吗？

微信公众号：电子课本大全

小数一上书籍0611.indb 71　　12-6-11 上午10:45

6.



7. 填数，使每条线上的三个数相加都得 10。

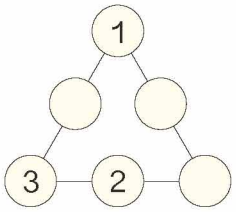

◎ 你知道吗？◎

在很久以前，古埃及使用象形数字，用 | 表示 1，∩ 表示 10。

10 − 1 = 9　　6 − 5 =

∩ − | = |||| 　　||| − || =

你能用这样的数计算吗？试一试。

|||| − |||| =　　∩ − ||| =

本单元结束了，
你想说些什么？

我学会了提出数学问题！

成长小档案

★★★★★

我觉得数可真奇妙，用 2、8、10 可以写出 4 个算式呢！



微信公众号：电子课本大全

小数一上书籍0611.indb 72　　12-6-11 上午10:45

6 11～20 各数的认识



微信公众号：电子课本大全

小数一上书籍0611.indb 73 12-6-11 上午10:45

1 先数出十根小棒，捆成一捆。



10 个一　　1 个十

再接着数一数，摆一摆。

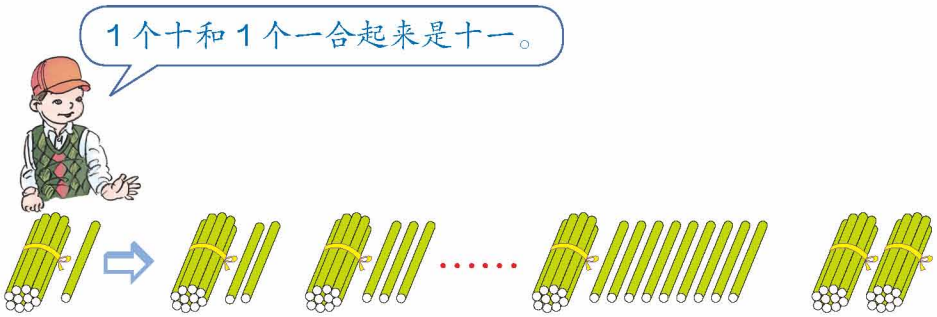

11　12　13　……　19　20

读作：十一　十二　十三　……　十九　二十

2

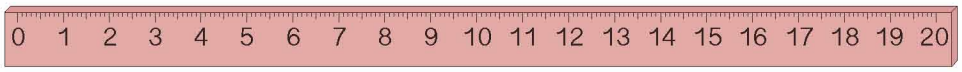



做一做

1. 数一数上页中的学具各有多少。
2. 从一数到二十。从七数到十三。
3. 读一读。



微信公众号：电子课本大全

小数一上书籍0611.indb 74　12-6-11 上午10:45

3

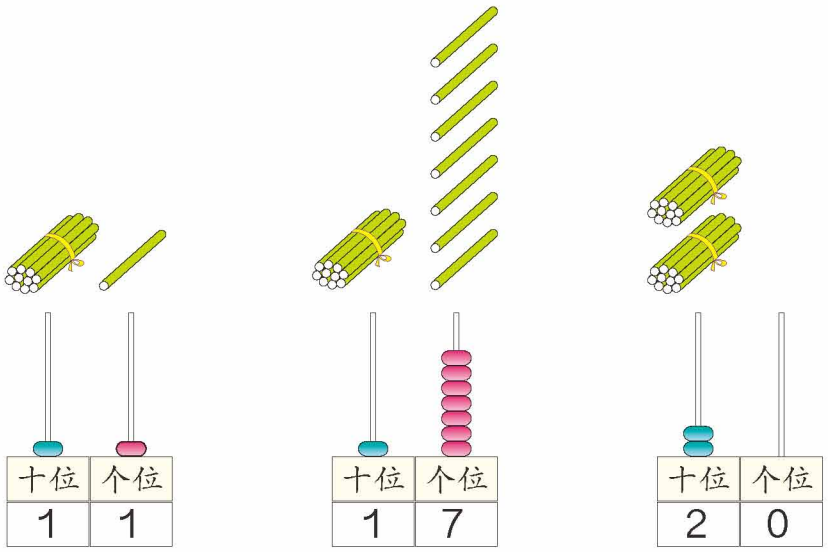

从右边起第一位是个位，第二位是十位。有 1 个十在十位写 1，有 2 个十在十位写 2。有几个一在个位写几。

做一做

1. 写一写，读一读。

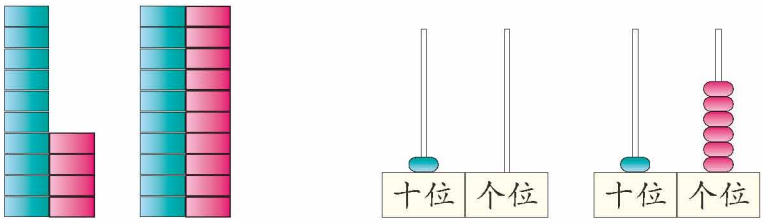

（　）（　）　（　）　（　）

2. 用数字卡片摆出下面各数。

十六　　十一　　十九

十四　　十七　　二十



3. 按顺序填数。

11		13			16			19
20		18			15			12

微信公众号：电子课本大全

小数一上书籍0611.indb 75　　12-6-11 上午10:46

练 习 十 七

1. 先圈出 10 只，再接着数。



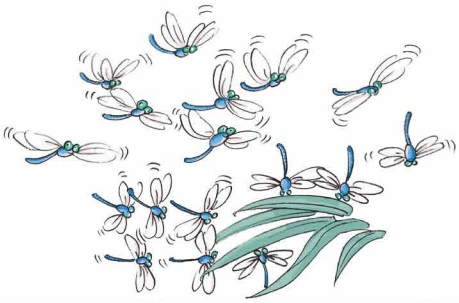

2. 用 摆出下面的数。

11　13　16　18　20

3. 数一数共有多少只鞋。



4. 数一数共有多少根 。



5. 按 1~20 的顺序连线。

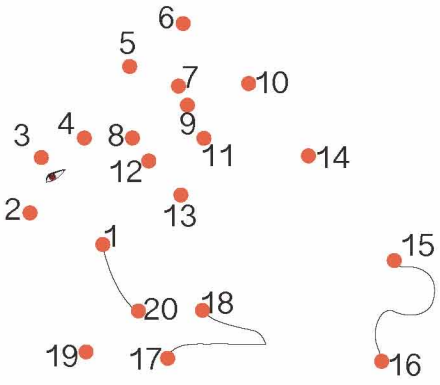

6. 找出数学书的第 7、12、18、20 页。

微信公众号：电子课本大全

小数一上书籍0611.indb 76　12-6-11 上午10:46

7.

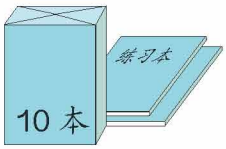



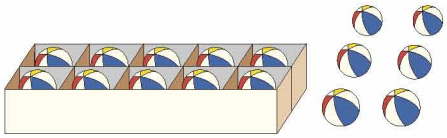

（　）本　　（　）支　　（　）个

你发现了什么？

8. 我是几？



我是由3个一和1个十合起来的。

（　）

我的十位上是1，个位上是9。



（　）

9. 11>□　　17<□　　□<16　　□>19

10.



（1）一共有（　）只　。

（2）把左边4只圈起来。从右边数，把第7只圈起来。

11.

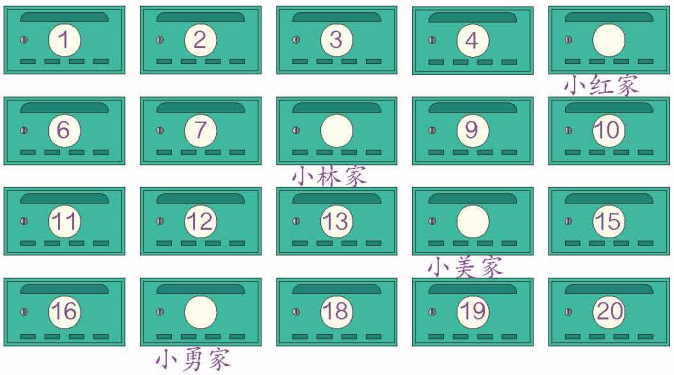



（1）小红的信应放在（　）号信箱。

（2）填出其他几个小朋友家的信箱号。

12.

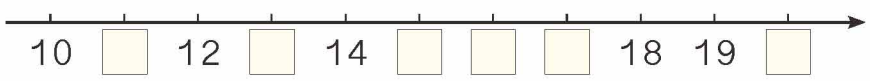

微信公众号：电子课本大全

小数一上书籍0611.indb 77　　12-6-11 上午10:46

4



10+3=13

13−3=10

13−10=3

5



11 + 2 = 13

加数 加数 和

13 − 2 = 11

被减数 减数 差

做一做

1.

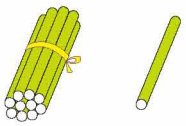

10+ 1 = □

11− □ = □

11− □ = □

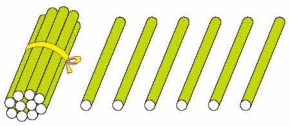

□ + □ = □

□ − □ = □

□ − □ = □

2.

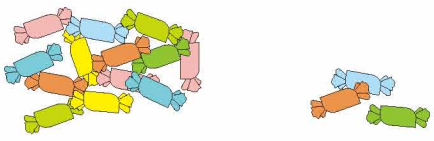

□ ○ □ = □（颗）

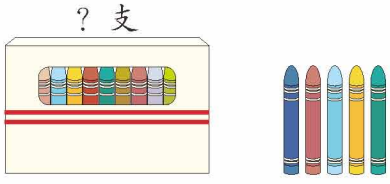

□ ○ □ = □（支）

3. 10+4= 11+4= 13+5=

14−10= 15−4= 18−5=

微信公众号：电子课本大全

小数一上书籍0611.indb 78 12-6-11 上午10:46

6



小丽和小宇之间有几人？

知道了什么？



小丽排第 □，
小宇排第 □。



要解决的问题是……

怎样解答？



数一数，小丽第 10，后面是第 11、12、13、14，第 15 是小宇，中间有 □ 人。



我来画一画。



你是怎样解答的？

解答正确吗？

小丽和小宇之间有 □ 人。

做一做



东东和玲玲之间有几人？

微信公众号：电子课本大全
小数一上书籍0611.indb 79 12-6-11 上午10:46

练 习 十 八

1. 找朋友。



2. 先猜一猜大约有多少个，再很快地数出来。



（　）个



（　）个

3.

7+3+5=	6+4+9=	8+2+6=
9+1−4=	11−1+5=	18−8−3=

4. 连一连，比一比。





比 多____。

5.



推迟后，运动会星期几开？

微信公众号：电子课本大全

小数一上书籍0611.indb 80　　12-6-11 上午10:46

6.



今天我从第 10 页读到第 14 页，明天该读第 15 页了。

他今天读了几页？

7. $7+\square=10$　　$10+\square=12$　　$11+\square=13$

◎ 数学游戏 ◎

得数是 8 的涂 ●，得数是 10 的涂 ●，
得数是 13 的涂 ●，得数是 14 的涂 ●。

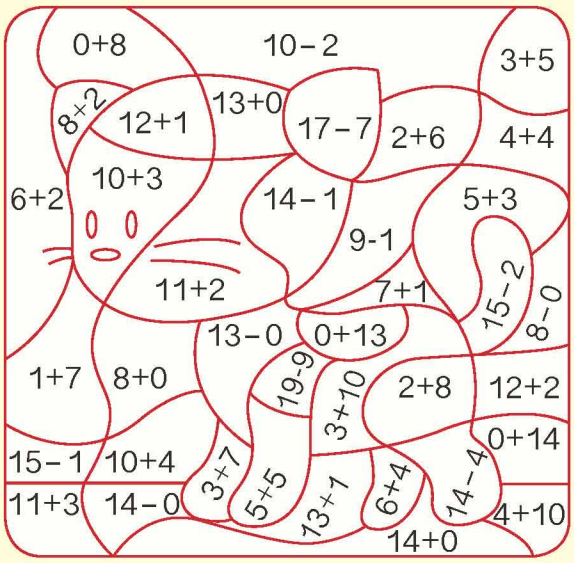

本单元结束了，
你想说些什么？

成长小档案

★★★★★★

我觉得有时候 2 个 2 个地数更方便。

我发现用数数的方法可以解决很多问题。



微信公众号：电子课本大全

小数一上书籍0611.indb 81　　12-6-11 上午10:46

数学乐园



按①、②、③……⑦的顺序走。谁先走到终点谁获胜。



我出剪刀，我赢了！我先走。

走到每一格都要答题，答对了才能停在那里，答错了可要后退一格哟！



起点

① 几和几组成 8？

① 6+4=?

②  一共有几个轮子？

② 粉笔盒放在讲台的____面。

② 家里的电话号码由几个数字组成？

③ 6 个  可以拼成一个大的正方体吗？

③ 19−9+4=?

③ 我的生日在__月。

③

19	18		16

④ 星期一的前一天是星期几？

④ 13−2=?

④

电梯	
11	12
9	10
7	8
5	6
3	4
1	2

12 表示什么？

④ 星期二到星期四放假，放几天假？

④ 一周有几节数学课？

小数一上书稿0611.indb 82
微信公众号：电子课本大全
12-6-11 上午10:46

小数一上书籍0611.indb 83

微信公众号：电子课本大全

⑤ 帮小刚送一封信。

⑤ 写出大于4小于10的数。

⑤ 我坐在同桌的__边。

⑤ 帮兵兵数一数有几双袜子。

⑥ 比一比。
15 ◯ 18

⑥ 回答小童的问题。

⑥ 16的前一个数是__，后一个数是__。

⑦ 19是由几个十和几个一组成的？

⑦ 10-5-5=？

终点



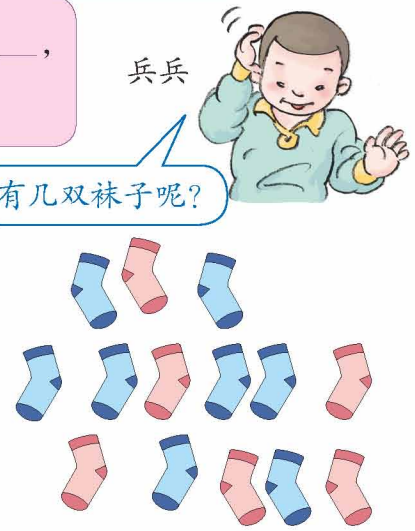



12-6-11 上午10:46

7 认识钟表



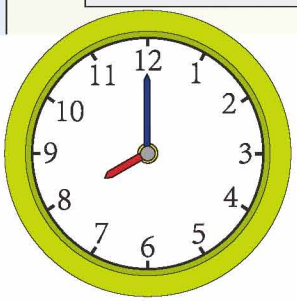

8 时

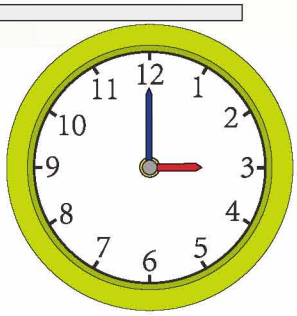

3 时

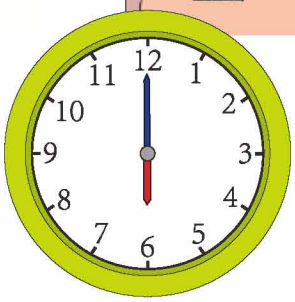

6 时

你发现了什么？







微信公众号：电子课本大全

小数一上书籍0611.indb 84 12-6-11 上午10:46

做一做

小明的一天。

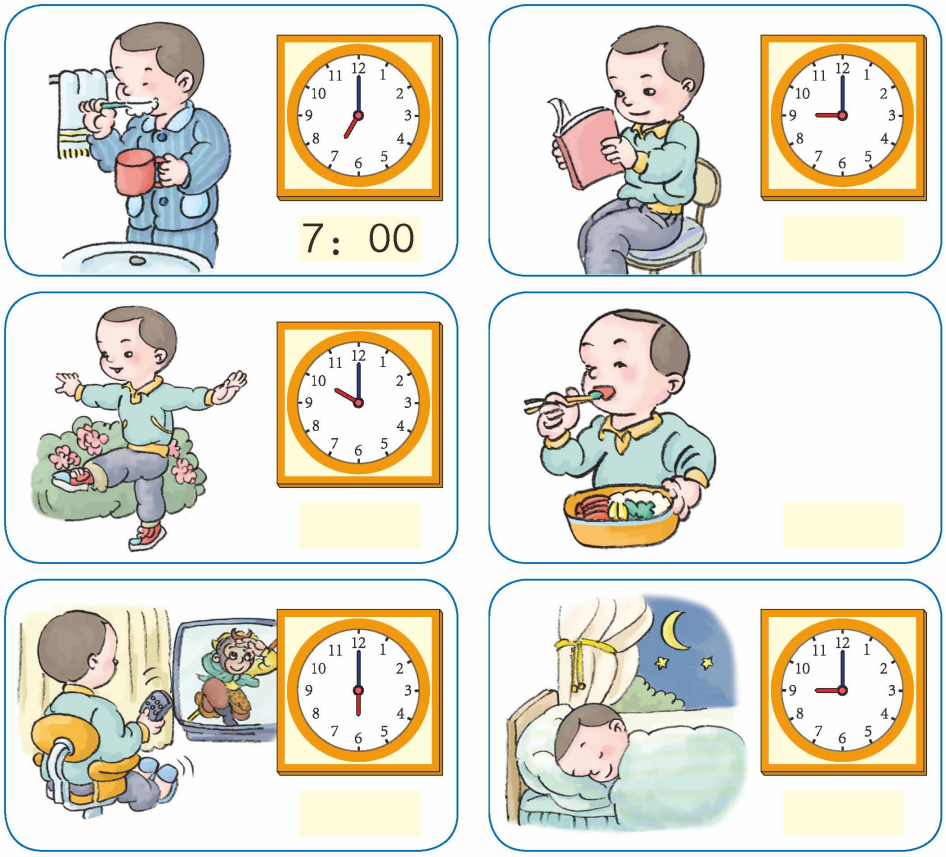

小明 9 时在做什么？

◎ 你知道吗？ ◎

下面是我国古代的计时工具。



日晷（guǐ）
利用太阳照射的影子计时



铜漏壶
利用滴水计时

微信公众号：电子课本大全

小数一上书籍0611.indb 85 12-6-11 上午10:46

练 习 十 九

1. 连一连。

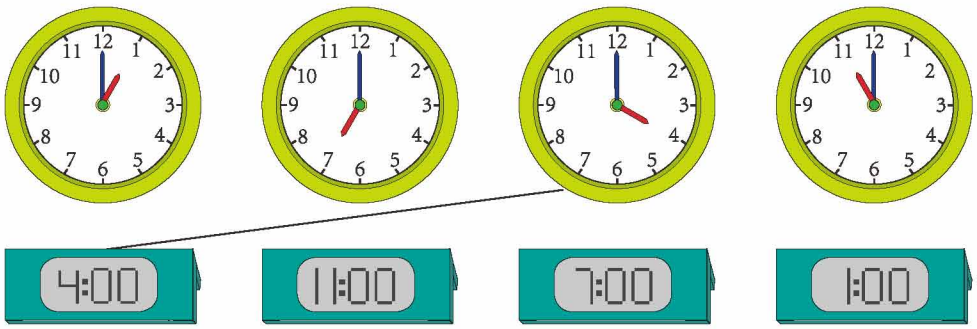

2.



3. 过 1 小时是几时？

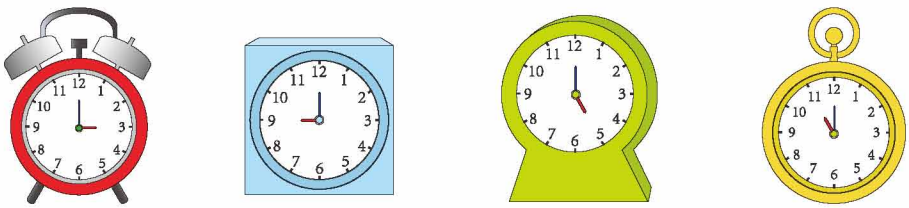

_____ _____ _____ _____

4. 快乐的周末（连线）。



10:00 12:00 11:00 8:00

微信公众号：电子课本大全

小数一上书籍0611.indb 86 12-6-11 上午10:46

5. 下面的时间写对了吗？如果不对，请改正。

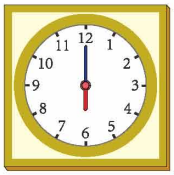
12：00 _____


2：00 _____

6. 照样子说一说。









7.



8.

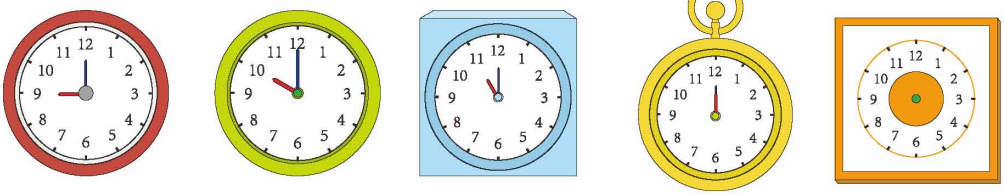

最后一个钟面的时针应该指向___，分针应该指向___。

本单元结束了，
你想说些什么？

成长小档案

★★★★
★★★

我会看几时了，我还想学习怎么看几时几分。

我知道一天有两个9时。一个在上午，一个在晚上。



微信公众号：电子课本大全

小数一上书籍0611.indb 87 12-6-11 上午10:46

8 20以内的进位加法



微信公众号：电子课本大全

小数一上书籍0611.indb 88 12-6-11 上午10:47

9 加几

1

9+4=□



做一做

1. 摆一摆，算一算。

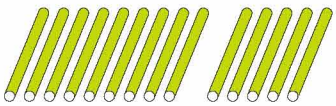

9 + 5 = □
1 □
10



9 + 7 = □
□ □
10

2.

9+1+2= 9+3 =	9+1+5= 9+6=	9+1+8= 9+9=

3.

9+ 2 = □
4 = □
6 = □
8 = □

9+ 3 = □
5 = □
7 = □
9 = □

微信公众号：电子课本大全

小数一上书籍0611.indb 89 12-6-11 上午10:47

练习二十

1.



一共有几人？

□ ○ □ = □（人）

2. 移动 9，每次加上卡片上的数。



9 →

2	4	5	7	0	1	9	8	10	6	3

3.

6+2=	9+4=	9+9=	2+7=	9+6=
9+3=	3+5=	4+6=	9+2=	9−7=
9+7=	10−6=	9−5=	9+8=	8−6=

4.





□ + □ = □

□ + □ = □

5. 在○里填上“>”“<”或“=”。

9+5 ○ 15	9+ 3 ○ 12	9+6 ○ 16
9+8 ○ 16	9+10 ○ 20	9+9 ○ 17

微信公众号：电子课本大全

小数一上书籍0611.indb 90 12-6-11 上午10:47

8、7、6 加几

2



8 + 5 = □

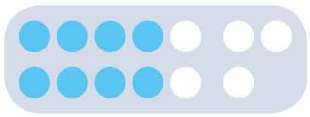

8 + 5 = □

10



还可以怎样算？

做一做

1. 圈一圈，算一算。

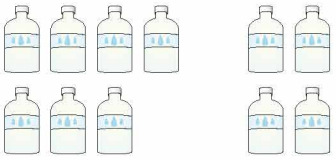

7 + 4 = □

10

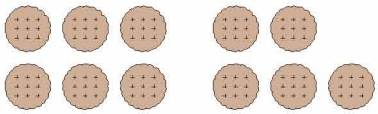

6 + 5 = □

10

2.

7+3+3= 7+6=	6+4+2= 6+6=	8+2+2= 8+4=

3.

8+ 2 = □, 4 = □, 6 = □, 8 = □

7+ 4 = □, 5 = □, 6 = □, 7 = □

6+ 5 = □, 6 = □

微信公众号：电子课本大全

小数一上书籍0611.indb 91 12-6-11 上午10:47

3

8 + 9 = □

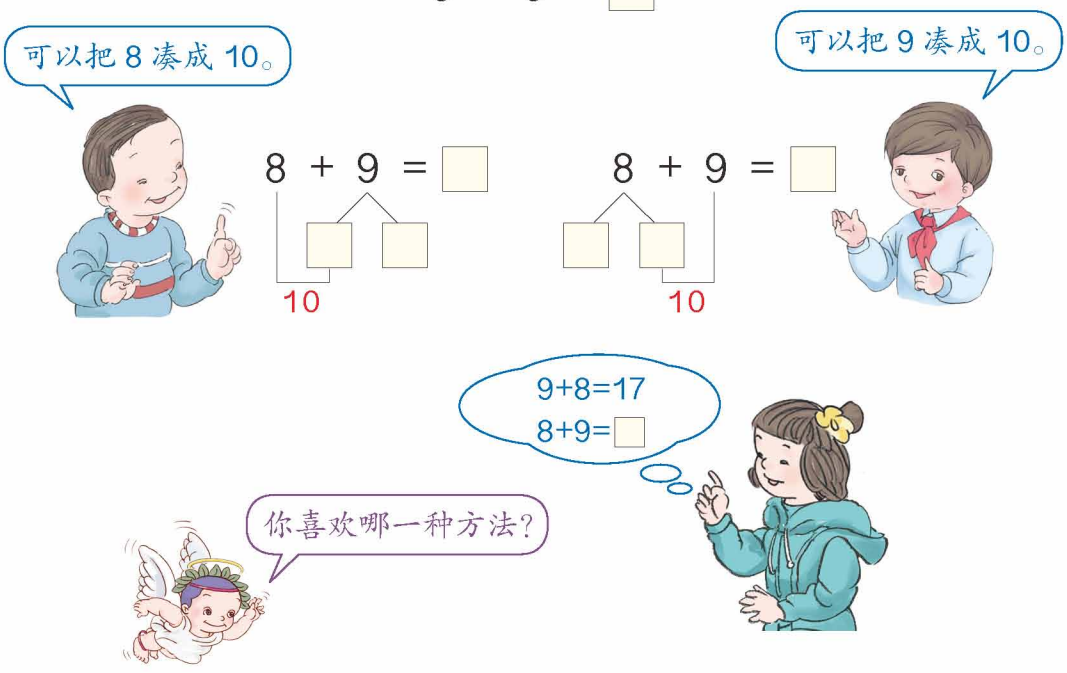

做一做

1. 用你喜欢的方法计算。

6+9=□　　7+8=□



2.

7+6=	8+6=	9+7=
6+7=	6+8=	7+9=

3.

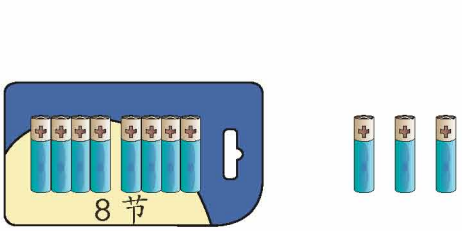

□ ○ □ = □（节）



□ ○ □ = □（朵）

微信公众号：电子课本大全

小数一上书籍0611.indb 92　　12-6-11 上午10:47

练 习 二 十 一

1. 先说得数，再写算式。

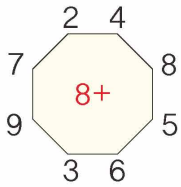

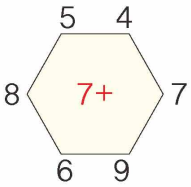

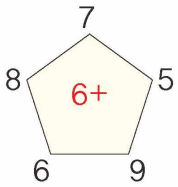

2. 移动 8，每次加上卡片上的数。



8 →

4	0	2	7	5	8	3	10	6	9

把 8 换成 6 、7，照样子加一加。

3. 上车。



4. 在○里填上“＞”“＜”或“＝”。

8+4 ○ 13　　6+9 ○ 16　　7+6 ○ 12

7+8 ○ 15　　6+8 ○ 12　　8+9 ○ 17

5.

8+8=	7−4=	9+5=	6+5=	7+7=
3+5=	7+9=	10−0=	12+3=	7−7=
6+8=	9+4=	17−3=	8+3=	16−6=

微信公众号：电子课本大全

小数一上书籍0611.indb 93　　12-6-11 上午10:47

6.

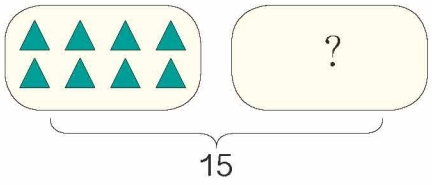

8 + □ = 15

7. 5+5+5= 4+4+4= 6+6+6=

15−5−5= 9−3−3= 8−4−4=

8.



原来有□只猴，
又跑来□只。
一共有多少只猴？
□ ○ □ = □（只）

9. 8 + □ = 12　7 + □ = 16　9 + □ = 13

6 + □ = 15　8 + □ = 11　7 + □ = 14

10. 接着往下涂。



在○里分别填上 3、4、5、6、7，使每条线上的三个数相加都得 12。



微信公众号：电子课本大全

小数一上书籍0611.indb 94 12-6-11 上午10:47

5、4、3、2加几

4

5+7=□　　5+8=□

4+8=□　　3+9=□



做一做

1.

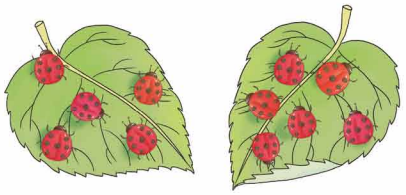

□ ○ □ = □　　□ ○ □ = □

2.

9+5=	9+4=	8+3=	9+2=
5+9=	4+9=	3+8=	2+9=

3.

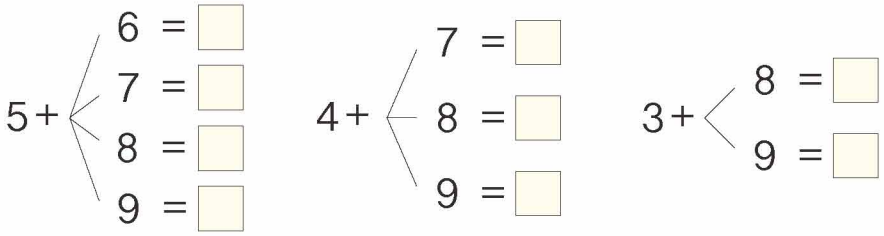

数学游戏



微信公众号：电子课本大全

小数一上书籍0611.indb 95　　12-6-11 上午10:47

练习二十二

1. 先说得数，再写算式。

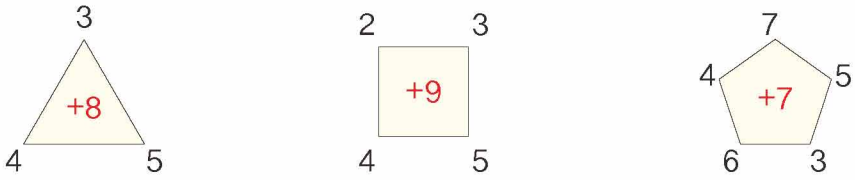

2. 算一算两种体育用品各有多少。

	一班	二班	一共
	7 个	6 个	____个
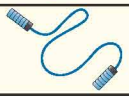	4 条	7 条	____条

3. 看谁算得都对。

5+7=　10−7=　4+8=　4+9=

13−3=　5+9=　10−9=　3+9=

4.



一共有多少串 ？　□ ○ □ = □（串）

你还能提出其他数学问题并解答吗？

5. 5 + □ =13　4 + □ =13　3 + □ =12

5 + □ =11　4 + □ =12　2 + □ =11

微信公众号：电子课本大全

小数一上书籍0611.indb 96　12-6-11 上午10:47

5



一共有多少人？

知道了什么？







怎样解答？

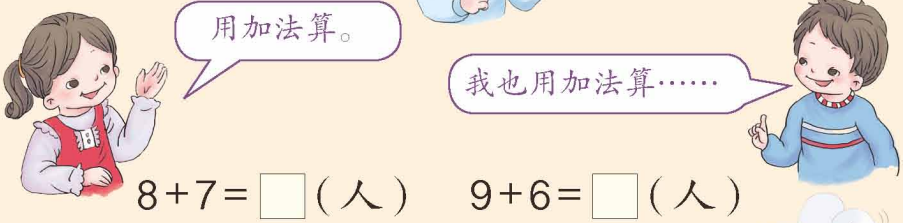

8+7=□（人）　9+6=□（人）

解答正确吗？



一共有□人。

做一做



一共有多少只天鹅？　□○□=□（只）

微信公众号：电子课本大全

小数一上书籍0611.indb 97　12-6-11 上午10:47

6



原来有多少个？

知道了什么？



怎样解答？

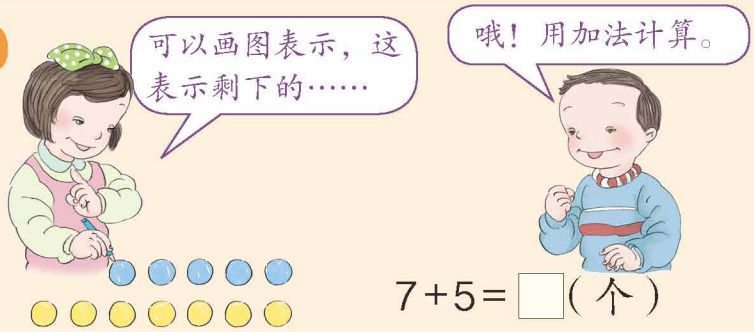

7+5=□（个）

解答正确吗？

原来有□个。

做一做



原来有多少个鸡蛋？

□○□=□（个）

微信公众号：电子课本大全

小数一上书籍0611.indb 98 12-6-11 上午10:47

练 习 二 十 三

1.



一共有多少人？

□ ○ □ = □（人）

2. 看谁算得都对。

8+5=	4+9=	10−4=	3+8=
5+7=	6+8=	10+5=	9−6=
7+4=	9+3=	13+2=	2+8=

3.



一共有多少个灯笼？ □ ○ □ = □（个）

4. 在○里填上“>”“<”或“=”。

4+8 ○ 13	3+9 ○ 14	7+6 ○ 12
5+7 ○ 11	6+5 ○ 12	3+8 ○ 11

微信公众号：电子课本大全

小数一上书籍0611.indb 99 12-6-11 上午10:47

5.



一共有多少人？

□ ○ □ = □（人）

6.



一共剪了多少个窗花？

□ ○ □ = □（个）

7. 3+8+5=　　6+7−3=　　5+8−2=

9−5+9=　　3+2+7=　　18−8−6=

8.



原来一共有多少条鱼？

□ ○ □ = □（条）





一共有多少人？

微信公众号：电子课本大全

小数一上书籍0611.indb 100　　12-6-11 上午10:47

整理和复习

1. 在卡片上写出 20 以内所有的进位加法算式并进行整理，说一说自己是怎样整理的。

9+2	8+3	7+4	6+5	5+6	4+7	3+8	2+9
9+3	8+4	7+5	6+6				
9+4	8+5	7+6					
9+5	8+6	7+7					
9+6	8+7	7+8					
9+7	8+8						
9+8	8+9						
9+9							



（1）说一说晶晶是怎样整理的，再把余下的算式填出来。



（2）任意指一道算式很快说出得数。

（3）计算第一列算式，你发现了什么？

2.



原来有多少个 ？

想：知道了哪些信息，要解决什么问题，用什么方法解答。

□ ○ □ = □（个）



微信公众号：电子课本大全

小数一上书籍0611.indb 101 12-6-11 上午10:47

练习二十四

1. 把和是 11、12、13 ……的加法算式一组一组地说出来。

2. 比一比。

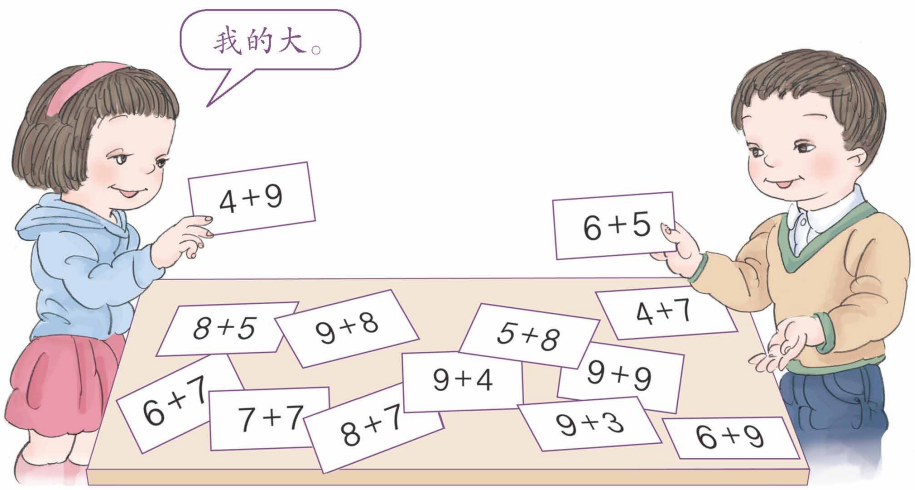

3. $5+8=\begin{cases}6+7\\ \square+\square\\ \square+\square\end{cases}$　　$7+4=\begin{cases}8+3\\ \square+\square\\ \square+\square\end{cases}$

4. 看谁算得都对。

8+6=	3+9=	6+7=	5+8=
2+9=	4+7=	9+4=	3+7=
7+5=	10+4=	8−3=	9+8=
13−2=	4+8=	0+6=	10−5=

5.

3+6+4=	8+5+2=	6+7−2=
19−3−5=	9−6+8=	14−4+6=
17−7+3=	7+3−8=	15−2−3=

微信公众号：电子课本大全

小数一上书籍0611.indb 102　　12-6-11 上午10:47

6.



一共用了多少块积木？ □ ○ □ = □（块）

7.

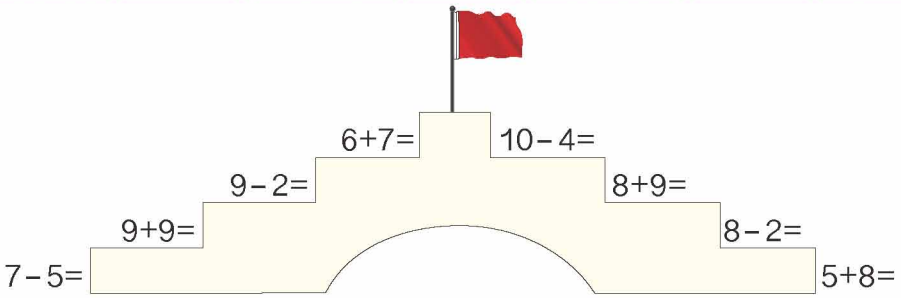

8.



原来一共有多少个水饺？ □ ○ □ = □（个）

9. $7+\square=16$　$9+\square=12$　$\square+3=11$

$5+\square=13$　$8+\square=15$　$\square+4=14$

本单元结束了，你想说些什么？

成长小档案

★★★★

★★★★

有时解决问题可以从不同的角度寻找信息。

用凑十的方法算9加几挺方便的。



微信公众号：电子课本大全

小数一上书籍0611.indb 103　12-6-11 上午10:47

9 总复习

成长小档案





这学期学习了什么？



学习了数数，在计数器上表示数……

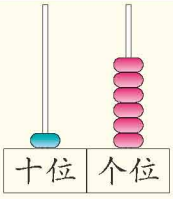

学习了认识钟表。

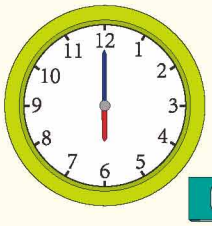





学习了加法和减法……

$9+3=12$
$8+7=15$
$10-4=6$

学习了认识图形。

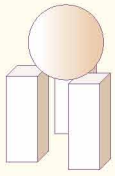



学习中最有趣的事情是什么？

图形的拼组很有趣。

计算时可以用数数、凑十等不同的方法，很有趣！

……



微信公众号：电子课本大全

小数一上书籍0611.indb 104 12-6-11 上午10:48

1. 仔细观察下表，完成表后的问题。

入口

第 1 行	1	2	③	4	5	6	7	8	9	10
		3		5		7		9		11
		4		⑥		8		10		12
	4		6	7	8		10		12	
第 5 行		6		8		10		12		14
	6			9					14	15
			⑨	10	11	12		14	15	
		9		11				15		17
	9		11	12			15		17	18
第 10 行	10		12		14		16			

出口



（1）14 前面一个数是（　），14 后面一个数是（　）。

（2）第 9 行，从左数第 7 个数是（　），它是由（　）个十和（　）个一组成的。

（3）填写空格中的数，并按 1~19 的顺序从入口走到出口。

（4）将表中的 11 涂上红色，你发现了什么？把 11 在计数器上画出来。

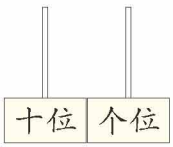



（5）说一说表中的数是怎样排列的。

（6）将上表◯中的数填在□中，并写出钟表上的时间。

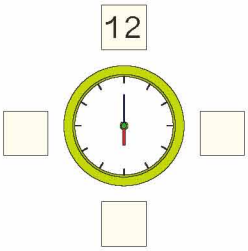

：



微信公众号：电子课本大全

小数一上书籍0611.indb 105　12-6-11 上午10:48

2. 仔细观察，在空格里填上合适的算式。

+	0	1	2	3	4	5	6	7	8	9	10
0	0+0	0+1								0+9	
1							1+6				
2								2+7		2+9	
3			3+2							3+9	
4	4+0		4+2			4+5		4+7			
5					5+4						
6		6+1					6+6		6+8		
7			7+2		7+4			7+7		7+9	
8				8+3					8+8		
9			9+2			9+5					
10	10+0				10+4			10+7			10+10

（1）任意指一道算式很快说出得数。

（2）你从表中发现了哪些有趣的排列？

（3）将得数是 10 的算式涂上红色，你发现了什么？

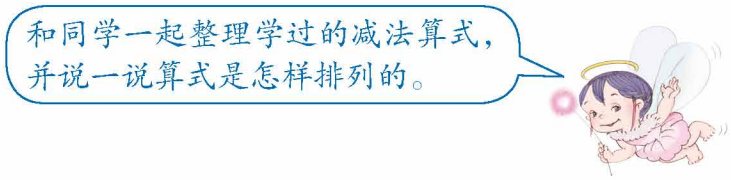

3.

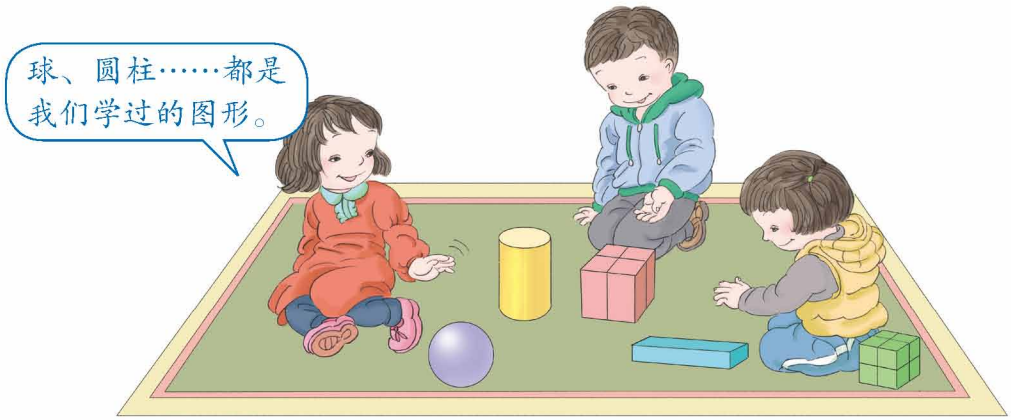

（1）用 4 个  可以拼成什么图形？试着拼一拼。

（2）拼成一个大正方体至少需要（　）个  。

微信公众号：电子课本大全

小数一上书籍0611.indb 106 12-6-11 上午10:48

练习二十五

1. 看图写数。


（　）

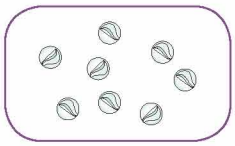
（　）

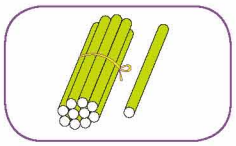
（　）

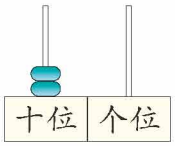

（　）

2. （1）1 个十和 2 个一合起来是（　）。
（2）15 里面有（　）个十和（　）个一。
（3）20 里面有（　）个十。

3. 

妈妈睡觉的时间是____。

4. 在○里填上“>”“<”或“=”。

5+9 ○ 14　　9 ○ 18－10　　7+8 ○ 16
10－8 ○ 7　　12 ○ 3+8　　9+6 ○ 15

5. 看谁算得都对。

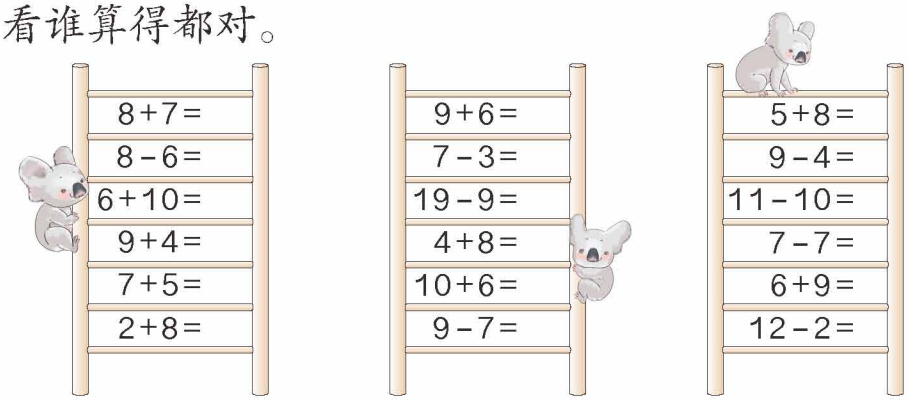

微信公众号：电子课本大全

小数一上书籍0611.indb 107　　12-6-11 上午10:48

6.

12 $\xrightarrow{+4}$ ☐ $\xrightarrow{-6}$ ☐ $\xrightarrow{+9}$ ☐ $\xrightarrow{-6}$ ☐ $\xrightarrow{+5}$ ☐

15 $\xrightarrow{-5}$ ☐ $\xrightarrow{+6}$ ☐ $\xrightarrow{-10}$ ☐ $\xrightarrow{+8}$ ☐ $\xrightarrow{-3}$ ☐

7. 要来16人，每人1把椅子，还需要多少把椅子？

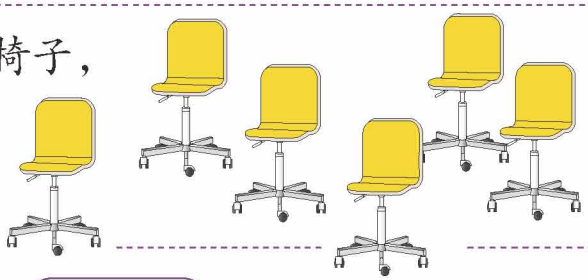

☐ ○ ☐ = ☐（把）

8.



原来有多少条鱼？

☐ ○ ☐ = ☐（条）

9. 10 + ☐ = 15　　☐ + 7 = 16　　10 − ☐ = 5

15 − ☐ = 10　　8 + ☐ = 14　　☐ − 2 = 8

15 − ☐ = 5　　☐ − 10 = 4　　☐ − 6 = 4

10.



你能提出两个数学问题并解答吗？

☐ ○ ☐ = ☐（只）　　☐ ○ ☐ = ☐（只）

微信公众号：电子课本大全

小数一上书籍0611.indb 108　　12-6-11 上午10:48

11.



她可能买了多少个小印章？ □ ○ □ = □（个）

12.

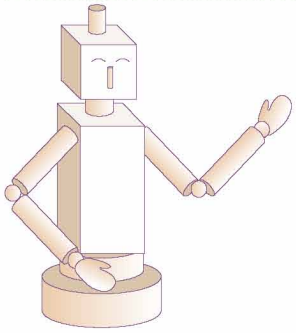

长方体（　）个
正方体（　）个
球（　）个
圆柱（　）个

13. 哪两堆积木可以拼成 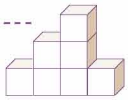 ？用线连起来。

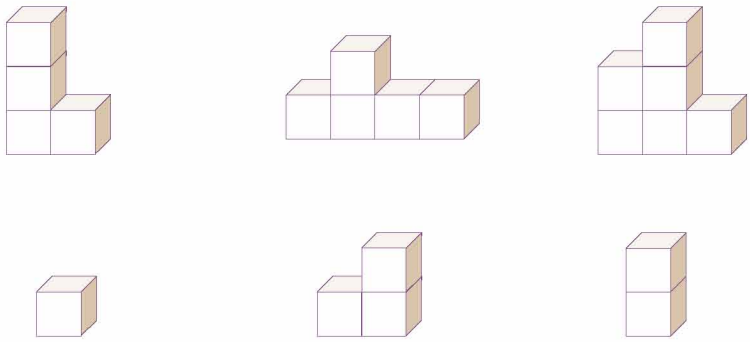

14. 要拼成一个大正方体，下面的图形至少还需要几个  ？



还需要（　）个　　还需要（　）个

微信公众号：电子课本大全

小数一上书籍0611.indb 109　12-6-11 上午10:48

15. 右图 里的数和它周围 里的数有关系。想一想，？里应填什么数？

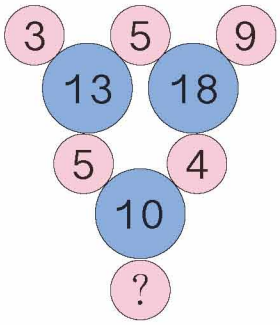

16. 你能按 2、4、6、8、2、4、6、8……的顺序从入口走到出口吗？



入口

↘	2	4	6	5	8	1	7	5	0
2	3	2	8	2	6	0	8	2	4
4	8	4	3	4	6	8	5	7	3
8	6	6	8	2	3	7	5	1	9
4	2	8	3	4	2	4	6	8	2
6	2	4	5	6	8	2	4	2	7
5	1	3	7	3	4	5	0	4	1
4	6	5	4	5	7	2	8	6	3
7	1	6	8	2	6	4	3	7	2
4	5	6	9	5	7	6	8	2	↘

出口

17.* □里可以填几？

9+□<15　　18−□>10　　13+□<19

小明和小华读同一本故事书，小明读了 8 页，小华读了 9 页，谁剩下的多？



微信公众号：电子课本大全

小数一上书籍0611.indb 110　　12-6-11 上午10:48

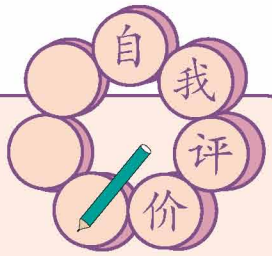

同学们，这学期要结束了，给自己的表现画上小红花吧！

学习表现			
喜欢学习数学			
愿意参加数学活动			
上课专心听讲			
积极思考老师提出的问题			
主动举手发言			
喜欢发现数学问题			
愿意和同学讨论学习中的问题			
敢于把自己的想法讲给同学听			
认真完成作业			


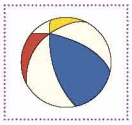



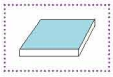

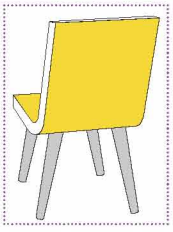
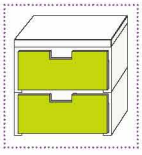








微信公众号：电子课本大全

小数一上书籍0611.indb 111 12-6-11 上午10:48

后 记

本册教科书是人民教育出版社课程教材研究所小学数学课程教材研究开发中心依据教育部《义务教育数学学课程标准》（2011版）编写的，经国家基础教育课程教材专家工作委员会2012年审查通过。

本册教科书集中反映了基础教育教科书研究与实验的成果，凝聚了参与课改实验的教育专家、学科专家、教研人员以及一线教师的集体智慧。我们感谢所有对教科书的编写、出版提供过帮助与支持的同仁和社会各界朋友，以及整体设计艺术指导吕敬人等。

本册教科书出版之前，我们通过多种渠道与教科书选用作品（包括照片、画作）的作者进行了联系，得到了他们的大力支持。对此，我们表示衷心的感谢！但仍有部分作者未能取得联系，恳请入选作品的作者与我们联系，以便支付稿酬。

我们真诚地希望广大教师、学生及家长在使用本册教科书的过程中提出宝贵意见，并将这些意见和建议及时反馈给我们。让我们携起手来，共同完成义务教育教材建设工作！

本册教科书的编制人员如下。

主要编写人员：丁国忠　张华　熊华　刘丽　刘福林

责任编辑：张华

美术编辑：郑文娟

联系方式

电子邮件：jcfk@pep.com.cn

人民教育出版社 课程教材研究所

小学数学课程教材研究开发中心

2012年5月

微信公众号：电子课本大全