九 年 义 务 教 育 课 本

三年级 第一学期

（试用本）

上海教育出版社

数学



MATHEMATICS

上海市中小学（幼儿园）课程改革委员会办公室
微信公众号：电子课本大全

上海市中小学（幼儿园）课程改革委员会办公室
上海市中小学（幼儿园）课程改革委员会办公室
上海市中小学（幼儿园）课程改革委员会办公室
上海市中小学（幼儿园）课程改革委员会办公室
上海市中小学（幼儿园）课程改革委员会办公室
上海市中小学（幼儿园）课程改革委员会办公室
微信公众号：电子课本大全

开学了，我们都进入了三年级。
我们都长高了！



上海市中小学（幼儿园）课程改革委员会办公室
微信公众号：电子课本大全

上海市中小学（幼儿园）课程改革委员会办公室
上海市中小学（幼儿园）课程改革委员会办公室
上海市中小学（幼儿园）课程改革委员会办公室
上海市中小学（幼儿园）课程改革委员会办公室
上海市中小学（幼儿园）课程改革委员会办公室
上海市中小学（幼儿园）课程改革委员会办公室
微信公众号：电子课本大全

目　录

一、复习与提高　1

小复习　2
连乘、连除　6
正方形组成的图形——多连块　8

二、用一位数乘　9

乘整十数、整百数　10
看图列式　14
一位数与两位数相乘　16
一位数与三位数相乘　20
小练习（1）　23

三、时间的初步认识（三）　25

年、月、日　26
平年与闰年　29
制作年历　30
小练习（2）　31

四、用一位数除　32

整十数、整百数的除法　33
两位数被一位数除　34
三位数被一位数除　39
除法的应用　44
单价、数量、总价　45
小练习（3）　47

上海市中小学（幼儿园）课程改革委员会办公室
微信公众号：电子课本大全

五、几何小实践 48

千米的认识 49
米与厘米 52
分米的认识 53
轴对称图形 54
三角形的分类（2） 56
面积 60
长方形与正方形的面积 62
平方米 64

六、整理与提高 65

乘乘除除 66
解决问题 70
图形的拼嵌 76
它们有多大 78
计算小胖家的面积 79
数学广场——植树问题 80
数学广场——周期问题 82
数学广场——流程图（2） 83

上海市中小学（幼儿园）课程改革委员会办公室
微信公众号：电子课本大全

一、复习与提高



上海市中小学（幼儿园）课程改革委员会办公室
微信公众号：电子课本大全

登月

1. 前往飞船



300 +300 =
900 −100 =
1000 −100 =
200 +700 =

820 −130 =
830 −130 =
840 −130 =
850 −130 =

180 +320 =
190 +310 =
200 +300 =
310 +290 =

440 + 96 + 204 =
750 + 165 − 165 =
548 − 296 − 104 =
808 − 799 + 91 =

4 × 9+5×9
= × 9
=

7 × 3−5×3
= × 3
=

506 + 298 + 94 =
112 + 429 + 71 =
933 + 295 − 933 =
686 + 391 − 486 =

12×7
× 7+ × 7
= +
=

14×9
= × 9+ × 9
= +
=

上海市中小学（幼儿园）课程改革委员会办公室
微信公众号：电子课本大全

2. 我们登上月球。



$49-6\times7=$

$86-9\times9=$

$73-8\times9=$

$37-5\times7=$

$29-3\times8=$

$22-3\times6=$

$7\times8+5=$

$7\times8+6=$

$6\times9+6=$

$6\times9+7=$

$5\times7+5=$

$5\times7+6=$

$$\begin{array}{r} 5858 \\ +\ 2323 \\ \hline \end{array} \qquad \begin{array}{r} 762 \\ +\ 8339 \\ \hline \end{array}$$

$$\begin{array}{r} 9070 \\ -\ 2404 \\ \hline \end{array} \qquad \begin{array}{r} 50002 \\ -\ 8107 \\ \hline \end{array}$$



1 三角形按角分类可以分成：

_____、_____、_____。

2 一个三角形中最少有　　个锐角。

一共有　　个三角形。



$37+42\div7=$

$26+81\div9=$

$72\div8+19=$

$48\div6-5=$

$27-18\div3=$

$36-28\div7=$



上海市中小学（幼儿园）课程改革委员会办公室

微信公众号：电子课本大全

3. 满载而归。

1 小巧拍了258张照片，小亚拍了347张照片。两人一共拍了多少张照片？

2 小丁丁拍了437张照片，小胖拍了284张照片。小丁丁拍的照片比小胖多多少张？

3 小丁丁原来收集了376个标本，后来又收集了137个标本。小丁丁总共收集了多少个标本？

4 小胖计划收集420个标本，已经收集到228个，还要收集多少个标本才能完成计划？

5 小亚收集了317个标本，比小巧多收集98个。小巧收集了多少个标本？

6 小丁丁从月亮邮局买了126张明信片，小巧买了238张明信片，小亚买了274张明信片。他们三人一共买了多少张明信片？

上海市中小学（幼儿园）课程改革委员会办公室
微信公众号：电子课本大全

7 月亮邮局原来有764张明信片，小胖买了213张，小丁丁买了198张。月亮邮局还剩下多少张明信片？

8 飞船上原来有427瓶水，用去了338瓶后，又增加了456瓶。飞船上现在有多少瓶水？

9 小巧将冲印的照片放入相册，如果每页可以装8张照片，装满9页后，还剩64张。小巧总共冲印了多少张照片？

10 小亚冲印了121张照片，如果每页相册可以装6张照片，那么装满7页后，还剩下多少张照片？

11 小丁丁原来有34盒标本，小丁丁将新收集的56个标本按每8个放入一盒。小丁丁现在有多少盒标本？

12 小胖有18个空的盒子，将32个标本按每8个放入一盒。小胖还剩下多少个空的盒子？

上海市中小学（幼儿园）课程改革委员会办公室

微信公众号：电子课本大全

连乘、连除

例 1　奶粉包装车间　安全生产　4 罐装 1 盒，2 盒装 1 箱



1　装了 3 箱奶粉，一共有几罐？



我来做。

1 箱有 2 盒，3 箱有：3 × 2 = 6（盒）。
1 盒有 4 罐，6 盒有：6 × 4 = 24（罐）。

3 × 2 × 4
= ＿＿ × 4
= ＿＿（　　）



两个式子也可以合并成一个式子，按从左往右的次序计算。

答：＿＿＿＿＿＿＿＿

2



32 罐奶粉可以装几箱？



这道题很难，让小丁丁算。



先算 32 罐可以装几盒。
32 ÷ 4 = 8（盒）。
再算 8 盒可以装几箱。
8 ÷ 2 = 4（箱）。



两个式子可以合并写成一个式子！

32 ÷ 4 ÷ 2
= 8 ÷ 2
= ＿＿（　　）



按从左往右的次序计算。

答：＿＿＿＿＿＿＿＿

上海市中小学（幼儿园）课程改革委员会办公室
微信公众号：电子课本大全

例 2

一共有多少块积木？

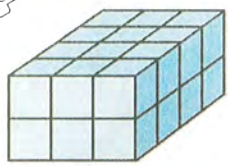

想一想，怎样用连乘来表示？



$2 \times 3 \times 4$



2 个“3 × 4”，
或 2 个“4 × 3”。



4 个“　×　”，
或 4 个“　×　”。





3 个“　×　”，
或 3 个“　×　”。





你发现了什么？



练一练。

$4 \times 2 \times 9 =$　　$81 \div 9 \div 9 =$

$5 \times 6 \times 2 =$　　$64 \div 8 \div 4 =$

上海市中小学（幼儿园）课程改革委员会办公室
微信公众号：电子课本大全

正方形组成的图形——多连块

例　用正方形组成的多连块。



上面哪些多连块分别是由2个正方形、3个正方形、4个正方形组成的？



小亚用多连块
摆了一个
2×4 的长方形



小巧摆了一个
4×4的正方形





练一练。

用各种多连块摆长方形。



小胖摆了一个
3×5 的长方形

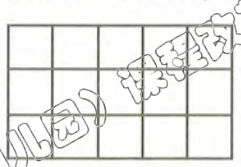

小丁丁也摆了一个
3×5 的长方形





你知道他们是怎样摆的吗？

微信公众号：电子课本大全

二、用一位数乘



上海市中小学（幼儿园）课程改革委员会办公室
微信公众号：电子课本大全

乘整十数、整百数

例 1

4 ×30
是多少？





4 × 3 =12

4 × 30=120



30 + 30 + 30 + 30=120

4 × 30=120



试一试。

1 像小亚那样计算。

5 × 30	4 × 30	3 × 70	6 × 50
4 × 80	7 × 20	2 × 90	8 × 70

2 像小巧那样计算。

6 × 4 = 6 × 40=	4 × 6 = 4 × 60=	7 × 8 = 7 × 80=	8 × 7 = 8 × 70=
4 × 9 = 4 × 90=	5 × 2 = 5 × 20=	9 × 3 = 9 × 30=	3 × 8 = 3 × 80=



上海市中小学（幼儿园）课程改革委员会办公室
微信公众号：电子课本大全

例 2



一纸板鸡蛋有 30 个，三纸板鸡蛋一共有几个？



你会算吗？



$3 \times 30 =$ ☐



$30 + 30 + 30 = 90$

$3 \times 30 = 90$

$3 \times 3 = 9$

$3 \times 30 = 90$



练一练。

送货单

新世纪小学	6 纸板鸡蛋
时代小学	7 纸板鸡蛋
实验小学	8 纸板鸡蛋
田园小学	5 纸板鸡蛋

每所小学得到了多少个新鲜鸡蛋？

新世纪小学

时代小学

实验小学

田园小学

上海市中小学（幼儿园）课程改革委员会办公室
微信公众号：电子课本大全

例3　秋季运动会



学校的跑道一圈长为200米。

现在进行的是800米长跑比赛，小胖跑在最前面，刚好跑完3圈。

1 小胖已经跑了多少米？

3个2百相加

200+200+200=600

3 ×200 =600

答：小胖已经跑了600米。

3个2是6，

3个2百就是6百

3 ×2 = 6

3 ×200=600

答：小胖已经跑了600米。

2 小胖、小丁丁、小巧、小亚都跑完了800米长跑比赛。他们4人一共跑了多少米？

我是第一名，我来算！

4 ×8 =32

4 ×800 =

小巧、小胖用的是推算！

答：

微信公众号：电子课本大全

练一练。

1 像小胖那样计算。

5 × 3 =	7 × 5 =	5 × 7 =	3 × 5 =
5 × 30 =	7 × 50 =	5 × 70 =	3 × 50 =
5 × 300=	7 × 500=	5 × 700=	3 × 500=

2 用自己喜欢的方法计算，谁快？

5 × 400=	5 × 900=	4 × 900=	7 × 800=
8 × 300=	4 × 800=	4 × 800=	6 × 800=
10 × 700=	9 × 700=	4 × 700=	5 × 800=

例 4 交换。

学校在操场旁的小花园中铺了一条新的小路。下图是小路的一段，用了多少块方砖？



工人叔叔	小丁丁
3 × 20 =?	20 × 3 =?
3 × 2 =	2 × 3 =
3 × 20 =	20 × 3 =

3 × 20 ○ 20 × 3

工人叔叔	小丁丁
3 × 200 =?	200 × 3 =?
3 × 2 =	2 × 3 =
3 × 200=	200 × 3 =

3 × 200 ○ 200 × 3

练一练。

30 × 8 = 60 × 7 = 400 × 9 = 700 × 2 =

微信公众号：电子课本大全

1 盒里有 4 罐酸奶，23 盒里有多少罐酸奶？







小胖要买 3 箱薯片，需要多少钱？

12 罐 1 箱，每箱 42 元

送给福利院的小朋友。





每袋重 10kg，37 元 1 袋

买 5 袋大米需要多少钱？



每包重 500g，29 元 1 包

买 3 包腰果要花多少钱？

微信公众号：电子课本大全



小亚家买了 4 箱猕猴桃，总共多少个？



36 个 1 箱，68 元 1 箱



23 元 1 箱

4 箱纯净水有多少瓶？

卖场中的数学问题真是多，你能提出一些问题吗？





329 元 1 台

买 4 台微波炉送给福利院，需要多少钱？

上海市中小学（幼儿园）课程改革委员会办公室
微信公众号：电子课本大全

例 1



1 $3 \times 42 = ?$



$3 \times 42 = \square$

$3 \times 40 = \square$

$3 \times 2 = \square$

$\square + \square = \square$

答：小胖买 3 箱薯片，需要 ____ 元。

练一练。

53 × 3 = 159
50 × 3 = 150
3 × 3 = 9
150 + 9 = 159

71 × 6 = ____

11 × 7 = ____

23 × 3 = ____

4 × 24 = ____
4 × 20 = ____
4 × 4 = ____
+ = ____

3 × 28 = ____

9 × 58 = ____

6 × 86 = ____

上海市中小学（幼儿园）课程改革委员会办公室
微信公众号：电子课本大全

2



3×42 也可以这样列竖式计算：

```
  4 2   ···因数
×   3   ···因数
-------
```



一般把位数多的因数放在上面。



我这样算：

```
  4 2
×   3
-------
  6     ···3 × 2
1 2 0   ···3 × 40
-------
1 2 6
```

可以简写成一般形式：



```
  4 2
×   3
-------
1 2 6
```

练一练。

64 × 2 =

```
  6 4
×   2
-------
```

11 × 8 =

```
  1 1
×   8
-------
```

13 × 3 =

```
  1 3
×   3
-------
```

21 × 5 =

```
  2 1
×   5
-------
```

3 × 72=

81 × 7 =

4 × 42=

53 × 2 =

上海市中小学（幼儿园）课程改革委员会办公室
微信公众号：电子课本大全

例 2

1盒里有4罐酸奶，23盒里有多少罐酸奶？



$23 \times 4 = ?$



可以这样算：

$$\begin{array}{r} 2\ 3 \\ \times\quad 4 \\ \hline 1\ 2 \\ 8\ 0 \\ \hline 9\ 2 \end{array}$$

$1\ 2$ ——— 4×3

$8\ 0$ ——— 4×20

答：23盒里有 ____ 罐酸奶。

可以简写成一般形式：



$$\begin{array}{r} 2\ 3 \\ \times\quad 4 \\ \hline 9\ 2 \end{array}$$

练一练。



$17 \times 5 =$

$$\begin{array}{r} 1\ 7 \\ \times\quad 5 \\ \hline \end{array}$$

$4 \times 19 =$

$$\begin{array}{r} 1\ 9 \\ \times\quad 4 \\ \hline \end{array}$$

$26 \times 3 =$

$$\begin{array}{r} 2\ 6 \\ \times\quad 3 \\ \hline \end{array}$$

$5 \times 18 =$

$$\begin{array}{r} 1\ 8 \\ \times\quad 5 \\ \hline \end{array}$$

$2 \times 36 =$

$28 \times 3 =$

$6 \times 15 =$

$24 \times 4 =$

上海市中小学（幼儿园）课程改革委员会办公室

微信公众号：电子课本大全

例 3



小亚家买了 4 箱猕猴桃，总共有多少个？



36 个 1 箱，68 元 1 箱

$4 \times 36 = ?$



我来估算：

36 在 30 和 40 之间，4×30＝120，

4×40=160，4×36的积在120到160之间。



用竖式算一算。

$$\begin{array}{r} 3\ 6 \\ \times\square\ \square\ 4 \\ \hline \square\ \square\ \square \end{array}$$



哪一位上乘得的积满几十，就向前一位进几。



你计算的积在 120 到 160 之间吗？

答：总共有　　个。



练一练。

79 × 3 =

$$\begin{array}{r} 7\ 9 \\ \times\ \ 3 \\ \hline \end{array}$$

7 × 46 =

$$\begin{array}{r} 4\ 6 \\ \times\ \ 7 \\ \hline \end{array}$$

84 × 5 =

$$\begin{array}{r} 8\ 4 \\ \times\ \ 5 \\ \hline \end{array}$$

38 × 8 =

$$\begin{array}{r} 3\ 8 \\ \times\ \ 8 \\ \hline \end{array}$$

47 × 6 =　　54 × 8 =　　9 × 45=　　75 × 8 =

上海市中小学（幼儿园）课程改革委员会办公室

微信公众号：电子课本大全

例 1

1



329 元 1 台

买 4 台微波炉送给福利院，需要多少钱？

$4 \times 329 = ?$

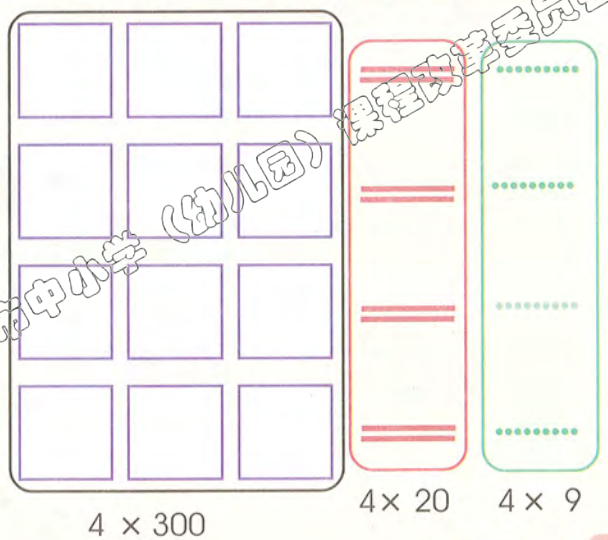

$4 \times 329 = \square$

$4 \times 300 = 1200$

$4 \times 20 = \square$

$4 \times 9 = \square$

$1200 + \square + \square = \square$



答：买 4 台微波炉需要 ＿＿ 元。

练一练。

3 × 782=	257 × 4=	3 × 702=	8 × 605=

上海市中小学（幼儿园）课程改革委员会办公室
微信公众号：电子课本大全

2 4×329 也可以用竖式来计算。



可以这样算：

$$\begin{array}{r} 3\ 2\ 9 \\ \times \qquad 4 \\ \hline \square\ \square \quad \text{——} 4 \times 9 \\ \square\ \square \quad \text{——} 4 \times 20 \\ \square\ \square\ \square \quad \text{——} 4 \times 300 \\ \hline \square\ \square\ \square\ \square \end{array}$$

可以简写成一般形式：



$$\begin{array}{r} 3\ 2\ 9 \\ \times \square\ \square\ \square\ 4 \\ \hline \square\ \square\ \square\ \square \end{array}$$

练一练。

$413 \times 3 =$

$$\begin{array}{r} 4\ 1\ 3 \\ \times \qquad 3 \\ \hline \end{array}$$

$3 \times 372 =$

$$\begin{array}{r} 3\ 7\ 2 \\ \times \qquad 3 \\ \hline \end{array}$$

$4 \times 217 =$

$$\begin{array}{r} 2\ 1\ 7 \\ \times \qquad 4 \\ \hline \end{array}$$

$8 \times 326 =$

$751 \times 4 =$

$207 \times 5 =$

上海市中小学（幼儿园）课程改革委员会办公室
微信公众号：电子课本大全

例 2　$3 \times 380 = ?$

我的算法：



$$\begin{array}{r} 380 \\ \times \quad 3 \\ \hline 1140 \end{array}$$

$$\begin{array}{r} 380 \\ \times \quad 3 \\ \hline 1140 \end{array}$$

怎么可以那样做呢？应该这样做。





小胖做得对不对？说说你的理由！



试一试。

210 × 4 =	160 × 9 =	580 × 4 =	810 × 7 =

练一练



我也喜欢做数学，我们一起做。按答案从小到大排卡片。

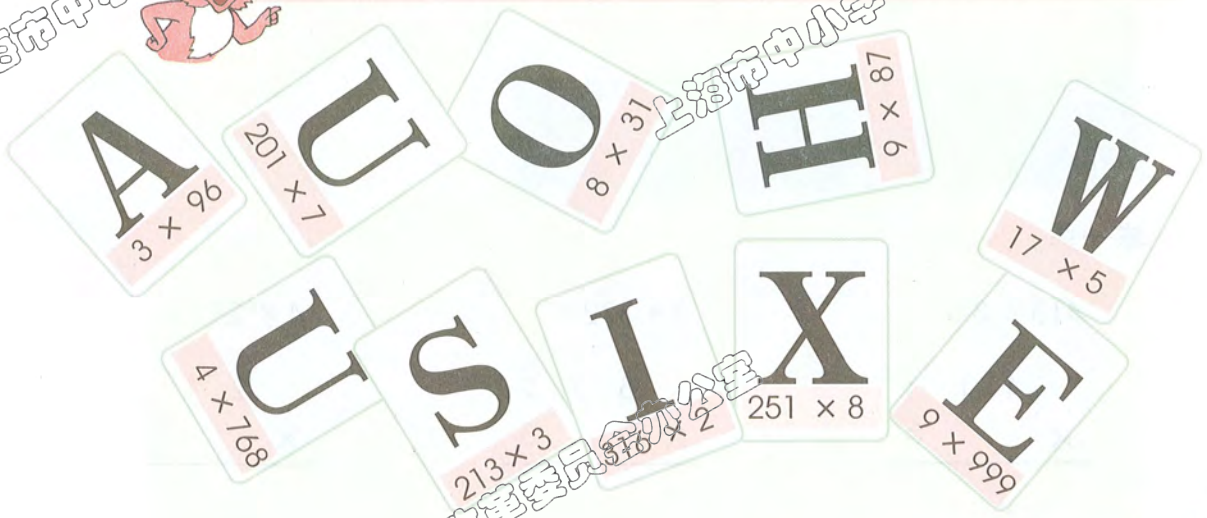

卡片上的字母连起来是什么意思？



W ＿＿ ＿＿ ＿＿

上海市中小学（幼儿园）课程改革委员会办公室
微信公众号：电子课本大全

小练习（1）

1 计算。

34 × 2 =　　83 × 2 =　　26 × 3 =

78 × 9 =　　90 × 7 =　　6 × 46 =

2 计算。

231 × 3 =　　3 × 461 =　　876 × 6 =

902 × 3 =　　780 × 5 =　　3 × 334 =

3 下面的计算错误在哪里？请改正。

3 2 3	1 0 4	5 4	2 7 6
× 3	× 3	× 7	× 4
1 2 6 6	4 0 2	3 5 2 8	8 0 4

4 计算。

256 + 36 × 2　　47 × 6 − 183　　78 × 4 + 497

319 + 476 × 4　　796 × 6 − 3024　　1903 − 475 × 4

上海市中小学（幼儿园）课程改革委员会办公室
微信公众号：电子课本大全

5. 列算式并计算。

1 每袋大米重25千克，8袋这样的大米一共重多少千克？

2 小丁丁折了38只纸鹤，小巧折的纸鹤是小丁丁的5倍。小巧折了多少只纸鹤？

3 小胖家到学校的路程是352米。小胖每天往返学校一次，往返学校走的是同一路段。4天里小胖在这段路上一共走了多少米？

4 小亚有一些彩色折纸，如果将这些彩色折纸平均分给9人，那么每人可以得到27张，还剩余5张。小亚总共有多少张彩色折纸？

5 小丁丁总共有327张邮票，如果集邮册每页可以装24张，那么装满7页后，还有多少张邮票没装进集邮册？

上海市中小学（幼儿园）课程改革委员会办公室
微信公众号：电子课本大全

三、时间的初步认识（三）

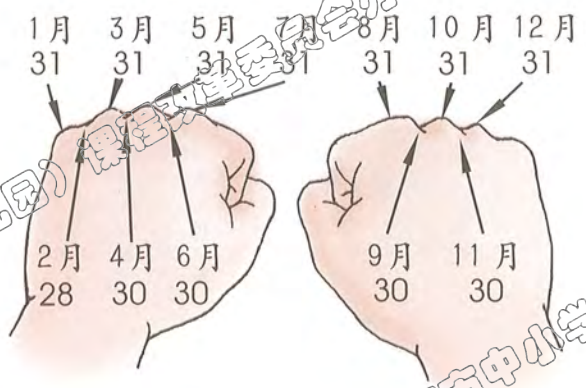

上海市中小学（幼儿园）课程改革委员会办公室
微信公众号：电子课本大全

年、月、日

例 1

这是 2004 年的年历。





上海市中小学（幼儿园）课程改革委员会办公室
微信公众号：电子课本大全

例 2



一年有几个月？每月有几天？



一年有 12 个月！



10 月有 31 天，每个月有 31 天！



不对，9 月只有 30 天！

1、3、5、7、8、10、12 月都有 31 天，是大月。

4、6、9、11 月都有 30 天，是小月。



每月的天数可以用拳头帮助我们记！

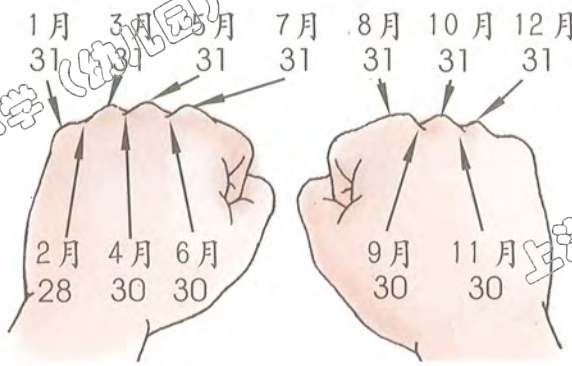

小胖真行！
不过 2004 年的
2 月可有 29 天！





通常 2 月份都是 28 天。 闰年的 2 月才是 29 天！ 2004 年是闰年。



练一练。

1 填一填 2004 年每月的天数。

1 月	2 月	3 月	4 月	5 月	6 月	7 月	8 月	9 月	10 月	11 月	12 月

2 一周有 7 天，下面的日期分别是星期几？

2004 年 6 月 1 日 ____ 2004 年 10 月 15 日 ____

上海市中小学（幼儿园）课程改革委员会办公室
微信公众号：电子课本大全

例3　日常生活中年、月、日的各种表示方法。





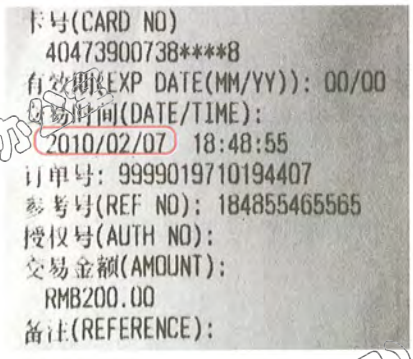



日常生活中，经常用上面各种年、月、日的简写方式。

练一练。

1　写出下面各种简写方式表示的年、月、日。

2008—01—12　　2007.12.01　　2009/08/07

2　用简写方式表示下列日期。

2008年8月8日　　2009年10月1日　　2010年3月12日

微信公众号：电子课本大全

例



2月只有28天的这一年是平年，2月有29天的这一年是闰年。观察1997年～2008年2月的天数，你有什么发现？





2000年、2004年、2008年是闰年，其余都是平年。

2000、2004、2008都是4的倍数。





通常每4年里有3个平年，1个闰年。公历年份是4的倍数的一般都是闰年。*

你知道吗？

我们居住的地球总是绕着太阳旋转的。地球绕太阳转一圈需要365天5（小）时48分（钟）46秒。为了方便，将一年定为365天，叫做平年。这样，每过4年差不多就要多出1天来，把这1天加在2月里，这一年就有366天，叫做闰年。

* 公历年份是4的倍数一般都是闰年；但公历年份是整百数时，必须是400的倍数才是闰年。如1900年不是闰年，而2000年是闰年。

上海市中小学（幼儿园）课程改革委员会办公室
微信公众号：电子课本大全

例



以小组为单位制作一个今年的年历。



要制作一个年历，有哪些步骤？



首先要查清1月1日是星期几。

还要判断今年是平年还是闰年。





一共12个月，每行4个月，排3行。

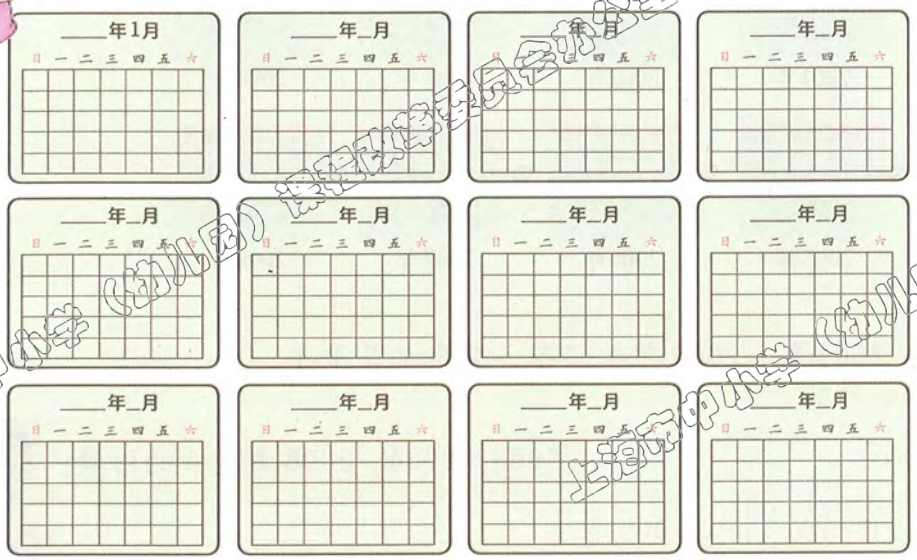



可以把休息日用另一种颜色标出来。



5月1日是劳动节，6月1日是儿童节，9月10日是教师节，10月1日是国庆节，这些节日都要标出来！



你的生日是几月几日？你父母的生日各是几月几日？

在年历上标出来，不要忘记！





你还知道哪些有纪念意义的日子？在小组里交流！

上海市中小学（幼儿园）课程改革委员会办公室
微信公众号：电子课本大全

小练习（2）

1. 看图填年、月、日。



北京奥运会开幕式

_____年8月8日



儿童节

_____月_____日

2. 用简写方式表示下列日期。

1949年10月1日 _____　　1921年7月1日 _____

3. 填一填。

1　4月是_____月，有_____天。　　2　7月是_____月，有_____天。

3　10月是_____月，有_____天。　　4　12月是_____月，有_____天。

4. 一年有4个季度，算一算今年每个季度各有多少天。

	第一季度	第二季度	第三季度	第四季度
月份	1月～3月	4月～6月	7月～9月	10月～12月
天数	（　）天	（　）天	（　）天	（　）天

5. 算一算，平年1年有多少天？闰年1年有多少天？

你是怎么算的？



6. 中华人民共和国是1949年10月1日成立的，到今年10月1日是多少周年？

7. 小巧今年11月份满10岁，她是哪一年出生的？

8. 亮亮满12岁的时候，只碰到3个生日。猜一猜亮亮是哪一天出生的。

微信公众号：电子课本大全

四、用一位数除



上海市中小学（幼儿园）课程改革委员会办公室
微信公众号：电子课本大全

例

小胖与小巧募集到180本图书，已送到了红河希望小学。

如果平均分给3个班级，那么每个班级可分到多少本图书？



180÷3

18 ÷ 3 = 6

↓

180 ÷ 3 = 60



180就是18个十。

答：每个班级可分到60本图书。



18 ÷ 3还可读作3除18或18被3除。

练一练。

1 计算。

120 ÷ 2 =	240 ÷ 3 =	480 ÷ 6 =	490 ÷ 7 =
140 ÷ 2 =	160 ÷ 4 =	540 ÷ 9 =	400 ÷ 8 =
200 ÷ 2 =	350 ÷ 5 =	320 ÷ 8 =	500 ÷ 5 =

2



只有3只塑料桶。

210个鸡蛋平均装入3只塑料桶。每只塑料桶要装多少个鸡蛋？



微信公众号：电子课本大全

两位数被一位数除

例 1



71 支铅笔 4 人平分，每人能分到多少支？





4的乘法口诀最大才到“四九三十六”，怎么算？

$71 \div 4 = ?$



那就全部拆散，一支一支分呗！



太麻烦啦，还有什么好办法吗？

可以这样分！

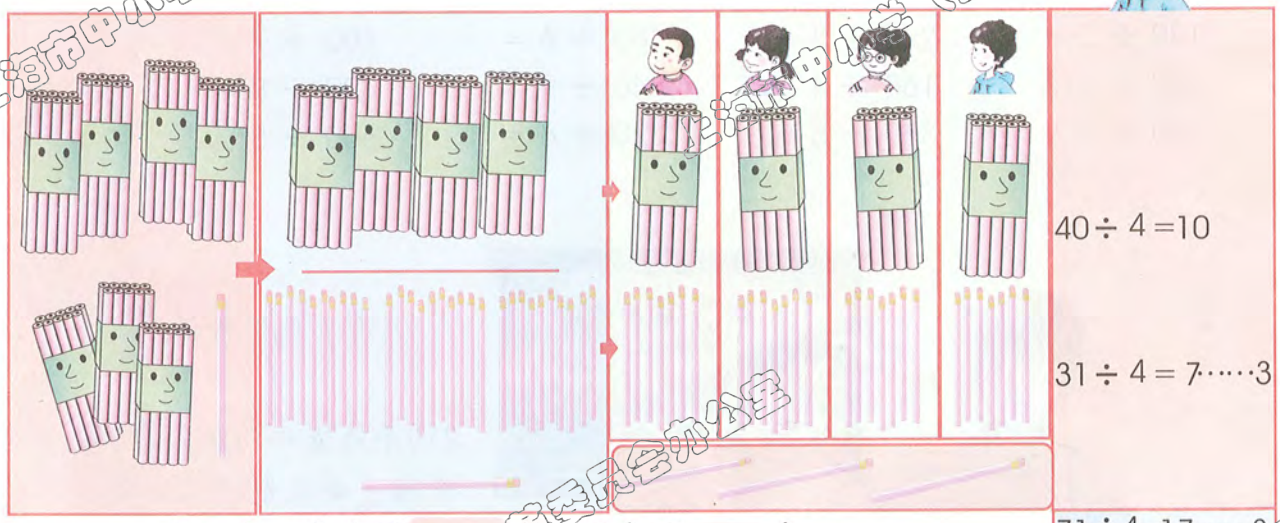

答：每人能分到 ____ 支，还余下 ____ 支。

练一练。

91 ÷ 7 =

51 ÷ 3 =

81 ÷ 6 =

76 ÷ 7 =

上海市中小学（幼儿园）课程改革委员会办公室
微信公众号：电子课本大全



71÷4 也可以这样列竖式计算：

除数 —— $4\overline{)71}$ —— 除号 —— 被除数

我这样算：



$$\begin{array}{r} 7 \\ 10 \\ \hline 4\overline{)71} \\ 40 \\ \hline 31 \\ 28 \\ \hline 3 \end{array}$$

7 > 17

40 · · · 10×4

28 · · · 7×4

可以简写成一般形式：



$$\begin{array}{r} 17 \\ 4\overline{)71} \\ 4 \\ \hline 31 \\ 28 \\ \hline 3 \end{array}$$

除法的竖式计算是从被除数的高位除起的。



练一练。

$6\overline{)93}$　$8\overline{)95}$　$3\overline{)87}$　$5\overline{)60}$　$2\overline{)92}$

例 2



怎样用竖式计算 28÷9？

$9\overline{)28}$

最高位上的数小于除数，怎么办？



上海市中小学（幼儿园）课程改革委员会办公室

微信公众号：电子课本大全



我这样算：

$$\begin{array}{r} 3 \\ 9\overline{)28} \\ 27 \\ \hline 1 \end{array}$$

$28 \div 9 = 3 \cdots\cdots 1$



被除数最高位上的数比除数小时，就看前两位，除到哪一位，商就写在哪一位上。

例 3



想一想，怎样帮小亚？





第一步就错了，剩余的数5比除数4大了。





是的，每次除得剩余的数都要比除数小。

练一练。

$3\overline{)70}$　$8\overline{)58}$　$4\overline{)98}$　$3\overline{)89}$

上海市中小学（幼儿园）课程改革委员会办公室
微信公众号：电子课本大全

例 4

$61 \div 3 =$ ☐



先估一估 $61 \div 3$ 的商是几位数。

不要漏掉“0”。



$$3\overline{)61}$$

$$\begin{array}{r} 2 \\ 3\overline{)61} \\ 6 \\ \hline \end{array}$$

$$\begin{array}{r} 20 \\ 3\overline{)61} \\ 6 \\ \hline 1 \end{array}$$

$$\begin{array}{r} 20 \\ 3\overline{)61} \\ 6 \\ \hline 1 \\ 0 \\ \hline 1 \end{array}$$



小丁丁是这样写的，你认为可以吗？

$$\begin{array}{r} 20 \\ 3\overline{)61} \\ 6 \\ \hline 1 \end{array}$$

个位不够商，要写0。



练一练。

先估一估商是几位数，再计算。

$4\overline{)87}$　$2\overline{)82}$　$7\overline{)72}$　$3\overline{)90}$

$9\overline{)86}$　$5\overline{)67}$　$3\overline{)96}$　$4\overline{)81}$

上海市中小学（幼儿园）课程改革委员会办公室
微信公众号：电子课本大全

例 5

一道题算出了 3 个答案，哪个答案正确？

二年级的小果园里结了94个橘子，4个班平均分，每个班能分到几个？还剩几个？

(1) 94 ÷ 4 = 22……6　(2) 94 ÷ 4 = 23……2　(3) 94 ÷ 4 = 24……2

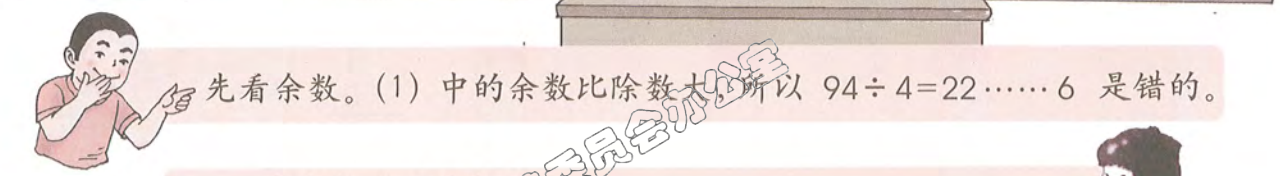

先看余数。(1) 中的余数比除数大，所以 94 ÷ 4 = 22……6 是错的。

在余数小于除数时，

如果商 × 除数 + 余数 = 被除数，那么计算结果就是对的。

(2) 的验算

23 × 4 + 2

= 92 + 2

= 94

验算结果与被除数相等，

所以 94 ÷ 4 = 23……2 是对的。

(3) 的验算

24 × 4 + 2

= 96 + 2

= 98

验算结果与被除数不相等，

所以 94 ÷ 4 = 24……2 是错的。

可以这样验算：先看余数。如果余数大于或等于除数，答案错；如果余数小于除数，再看商×除数＋余数是否等于被除数。

练一练。

计算并验算。

73 ÷ 6	92 ÷ 3	97 ÷ 8	50 ÷ 3

上海市中小学（幼儿园）课程改革委员会办公室
微信公众号：电子课本大全

例 1

1 536 张手工纸平均分给 3 个班，每个班能分到几张？还剩下几张？



536 ÷ 3 = ?



我来试一试。

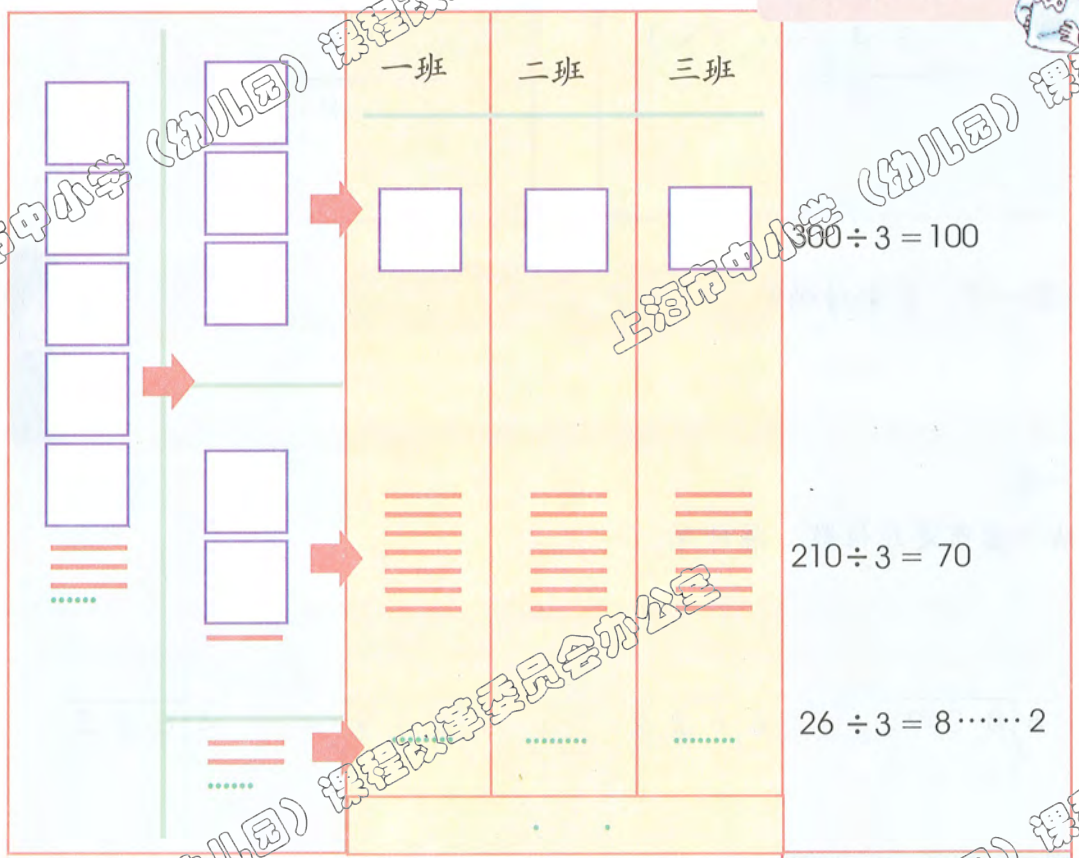

300 ÷ 3 = 100

210 ÷ 3 = 70

26 ÷ 3 = 8……2

536 ÷ 3 = 178……2

答：每个班能分到 ____ 张，还剩下 ____ 张。

上海市中小学（幼儿园）课程改革委员会办公室
微信公众号：电子课本大全

2 536 ÷ 3 也可以用竖式计算，谁来试一试？





我这样算：

```
        8
      7 0
    1 0 0      1 7 8
3 ) 5 3 6
    3 0 0  ···100×3
    ---------
    2 3 6
    2 1 0  ···  70×3
    ---------
      2 6
      2 4  ···   8×3
    ---------
        2
```

可以简写成一般形式：



```
    1 7 8
3 ) 5 3 6
    3
    ---------
    2 3
    2 1
    ---------
      2 6
      2 4
    ---------
        2
```

验算一下，答案对吗？



练一练。

先估一估商是几位数，再计算。

6) 8 0 9　　3) 8 2 2　　7) 8 1 9　　4) 6 2 5

微信公众号：电子课本大全

例 2



想一想，这两道题中商里面的“0”可以不写吗？

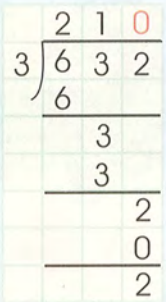

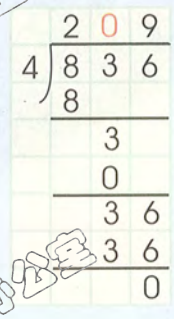

例 3



可以这样写吗？

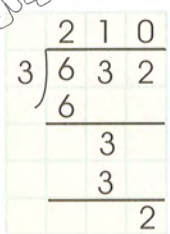

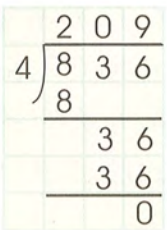

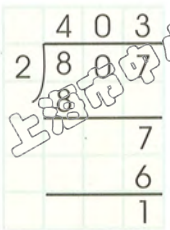

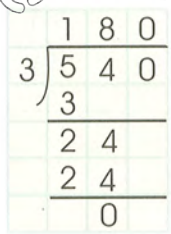

计算时要注意什么？



练一练。

先估一估商是几位数，再计算。









上海市中小学（幼儿园）课程改革委员会办公室

微信公众号：电子课本大全

例 4



如果每排摆 4 盆花，那么 254 盆花可以摆多少排？还剩几盆？

$254 \div 4 = ?$





可以这样计算：

$$\begin{array}{r} 63 \\ 4\overline{)254} \\ 24 \\ \hline 14 \\ 12 \\ \hline 2 \end{array}$$



除数是一位数除法的计算方法：

1. 从被除数的高位除起，除的时候先看被除数的前一位，如果前一位比除数小，就看前两位。
2. 除到被除数的哪一位，就把商写在那一位上面。
3. 每次除得剩余的数必须比除数小。

答：可以摆 _____ 排，还剩 _____ 盆。

练一练。

$5\overline{)427}$　　$4\overline{)308}$　　$3\overline{)268}$　　$9\overline{)630}$

上海市中小学（幼儿园）课程改革委员会办公室
微信公众号：电子课本大全

例 5



虎妈妈的体重是138kg，刚好是虎宝宝体重的6倍，虎宝宝的体重是多少kg？





画图来考虑。

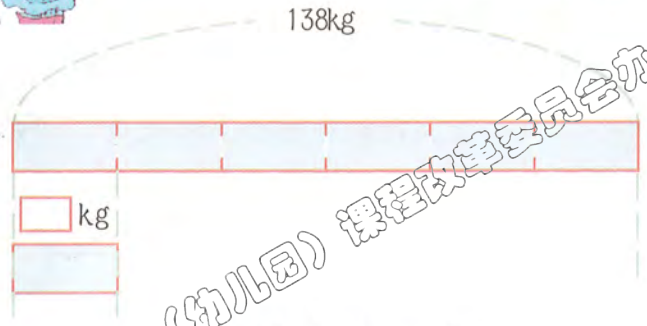

把138kg平均分成6份，1份就是虎宝宝的体重。



138 ÷ 6 = ?



先估一估虎宝宝大约是多重。

$$6\overline{)138}$$



20 × 6 = 120
30 × 6 = 180
虎宝宝的体重在20kg到30kg之间，接近20kg。



我来算算虎宝宝到底有多重。

答：虎宝宝的体重是 kg。

先估一估商大约是多少，再在练习本上用竖式计算。

$$4\overline{)324}$$

$$3\overline{)478}$$

$$9\overline{)647}$$

$$7\overline{)728}$$

$$8\overline{)704}$$

$$6\overline{)908}$$

微信公众号：电子课本大全

除法的应用

例

4人坐1张长椅，47人至少需要几张长椅？



$47 \div 4 = 11$（张）…… 3（人）

$$\begin{array}{r} 1\ 7 \\ 4\overline{)\,4\ 7} \\ 4 \\ \hline 7 \\ 4 \\ \hline 3 \end{array}$$



算出来的答案是11余3，所以只要11张长椅就够了。

用11张长椅还会有3人没座位，所以还要加1张长椅。





你认为谁说得对？

答：_____

练一练。

1 4个球装一个纸盒，83个球至少需要多少个纸盒？

2 1张图画纸可以制作8张卡片，要想制作211张卡片，至少需要多少张图画纸？

3 某种集邮册每页可以放9张邮票，如果113张邮票能够全部放到这本集邮册中，那么这本集邮册至少有多少页？

微信公众号：电子课本大全

例

写出买下列各项物品分别需要多少钱。

(1) 单价为 18 元的网球，买 8 个。

(2) 单价为 4 元的手帕，买 24 条。

(3) 单价为 8 元的袜子，买 15 双。

单价就是 1 个商品的价格。





求各项物品分别需要多少钱，可以像右边那样列算式。

$18 \times 8 = 144$

$4 \times 24 = 96$

$8 \times 15 = 120$

单价 × 数量 = 总价

单价 × 数量 = 总价

总价 ÷ 数量 = 单价

总价 ÷ 单价 = 数量

试一试。

先想一想下面各问题的数量关系是什么，再计算。

1 1 盒铅笔芯的单价为 3 元，81 元一共可以买多少盒这样的铅笔芯？

2 买 6 本同样的笔记本一共用了 108 元，这种笔记本每本多少钱？

3 买 7 个单价为 58 元的足球，总共需要多少钱？

微信公众号：电子课本大全

练一练。

1 填空。

	单价	数量	总价
羽毛球	7（元）	（个）	336（元）
运动鞋	156（元）	6（双）	（元）
运动服	（元）	3（套）	864（元）

2 1块巧克力的售价为8元，买48块这样的巧克力需要多少钱？

3 1千克苹果的售价为9元，243元可以买多少千克这样的苹果？

4 小巧用1632元买了4台同样的英文电子词典，这种英文电子词典的单价是多少钱？

5 小丁丁有568元，买了5本单价为68元的词典后，小丁丁还剩下多少钱？

微信公众号：电子课本大全

小练习（3）

1 计算。

84 ÷ 6 =　　77 ÷ 3 =　　82 ÷ 4 =

810 ÷ 5 =　　924 ÷ 7 =　　636 ÷ 6 =

306 ÷ 9 =　　500 ÷ 7 =　　870 ÷ 3 =

2 计算。

184 + 891 ÷ 3　　752 ÷ 8 + 208　　944 ÷ 4 − 138

803 − 588 ÷ 6　　209 + 756 ÷ 7　　940 + 935 ÷ 5

3 2010 年有 365 天，2010 年一共有多少个星期？还多几天？

4 296 人平均分成 8 个班，每个班里有多少人？

5 小胖用 342 元买了 6 辆同样的汽车模型，这种汽车模型的单价是多少？

6 一种笔记本的单价为 4 元，小巧用 188 元能买多少本这样的笔记本？

微信公众号：电子课本大全

五、几何小实践



微信公众号：电子课本大全

例 1



1km=1000m

1km 表示 1 千米，就是 1000 米。

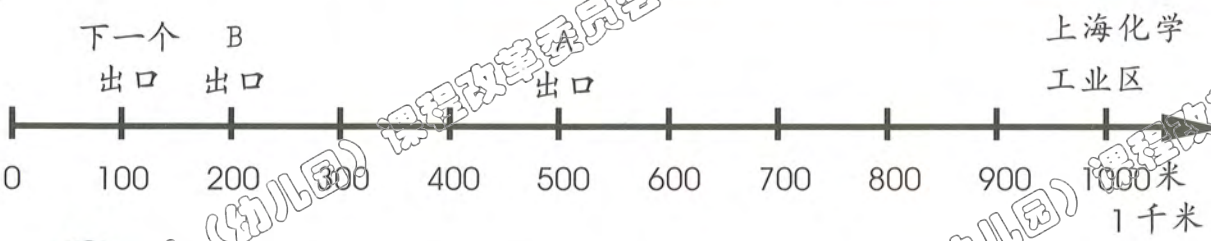



1 千米就是 10 个 100 米。

表示较长的路程时，经常用千米(km)作单位。





运动场的标准环形跑道，通常一圈是400m，1km就是两圈半。





你们学校的环形跑道一圈是几米？走一走，估一估，你走 1km 大约需要多长时间？

在你放学回家的路上，估一估从学校到什么地方大约是 1km。

上海市中小学（幼儿园）课程改革委员会办公室
微信公众号：电子课本大全

例 2



1公里也就是1千米。

3km=3000m

练一练。

2 km = ( ) m　　5 km = ( ) m　　11 km = ( ) m

4000 m = ( ) km　　6000 m = ( ) km　　28000 m = ( ) km

8 km + 1 km = ( ) m　　12 km − 6 km = ( ) m　　5000 m − 2 km = ( ) m



例 3　从少年宫到图书馆的走法有多种，选择其中的3种走法计算长度。

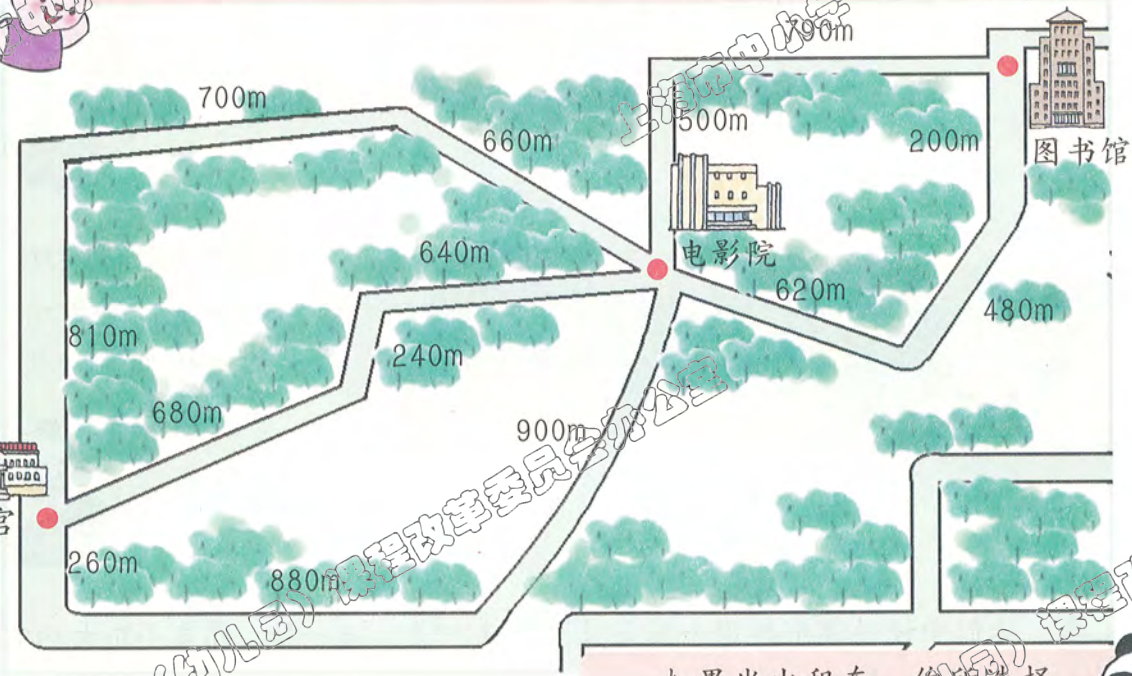



不管怎么走，都会经过电影院！

如果坐出租车，你所选择的走法，起步价够吗？



微信公众号：电子课本大全

走法一：810m + 700m + 660m = 2170m

走法二：　　= 　　m

走法三：　　= 　　m

从少年宫到电影院，有 3 种不同走法。





从电影院到图书馆，有 2 种不同走法。

走法一：　500m + 790m = 1290m

走法二：　　= 　　m

从少年宫到图书馆的 3 种走法：

走法 1



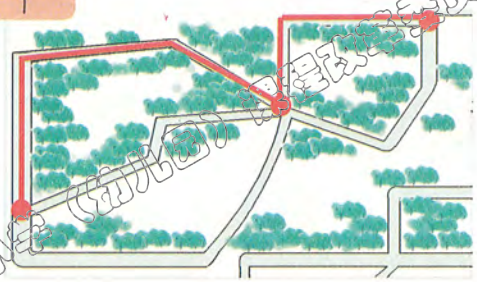

2170m + 1290m = 3460m

3 km = 3000 m

3460 m > 3000 m

起步价不够。

走法 2

　　= 　　m

　　km = 　　m

　　m ○ 3000m

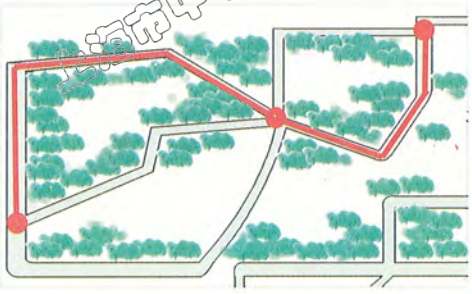



走法 3



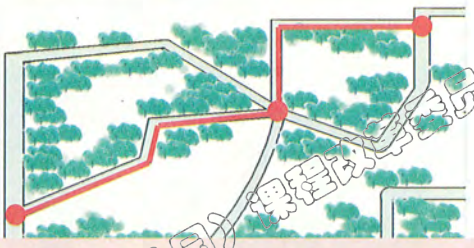

　　= 　　m

　　km = 　　m

　　m ○ 3000m

你有兴趣想一想其他走法吗？



按走法　　走，坐出租车起步价就够了；

按走法　　走，坐出租车起步价不够。

微信公众号：电子课本大全

例



小胖，身高1米30厘米。



“1米30厘米”用cm作单位就是130cm。

小巧、小亚、小丁丁的身高用cm作单位，分别怎样记呢？试一试。





我的身高是1米28厘米。

cm



我的身高是1米33厘米。

cm



我的身高是1米37厘米。

cm

1 m 65 cm= cm

1 m 80 cm= cm

1 m 76 cm= cm

上海市中小学（幼儿园）课程改革委员会办公室
微信公众号：电子课本大全

分米的认识

例 1



你能填入合适的长度单位吗？



马拉松比赛
全长约 42 ☐



凳子
高约 45 ☐



长颈鹿
高约 5 ☐



回形针
长约 29 ☐

例 2



这些是我们已经学过的长度单位：千米、米、厘米、毫米。



在米和厘米之间，还有一个长度单位：分米。



1 分米等于 10 厘米。分米用字母表示是 dm。

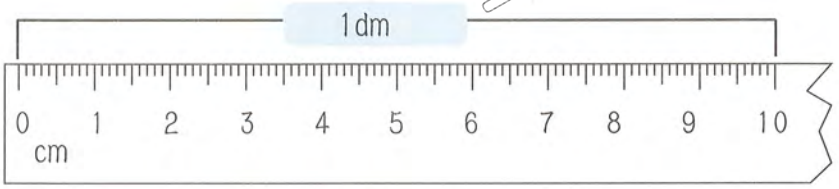

1dm ＝10cm



我们一起来整理。

1km ＝1000m

1m ＝10dm ＝100cm

1dm ＝ 10cm

1cm ＝ 10mm

微信公众号：电子课本大全

例



在照片上，对大剧院的左边与右边进行比较。







图片中蝴蝶的两个翅膀可以重合在一起。

蝴蝶的图案是轴对称图形，它有一根对称轴。

剪出各种蝴蝶，并画出漂亮的翅膀。



对称轴

练一练。

1 找一找对称轴，用红线把它画出来。





上海市中小学（幼儿园）课程改革委员会办公室
微信公众号：电子课本大全

2 画出它们的另一半，使它们成为轴对称图形。

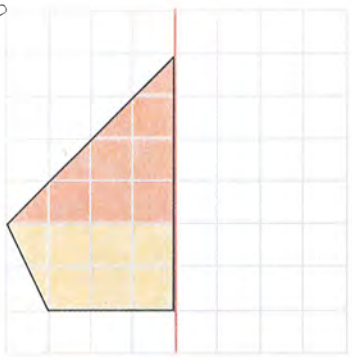

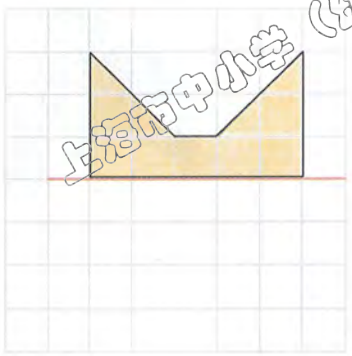

3 在哪些图中红线是对称轴？









4 剪几个轴对称图形。







上海市中小学（幼儿园）课程改革委员会办公室
微信公众号：电子课本大全

三角形的分类（2）

例 1





大家来试一试做几个三角形。

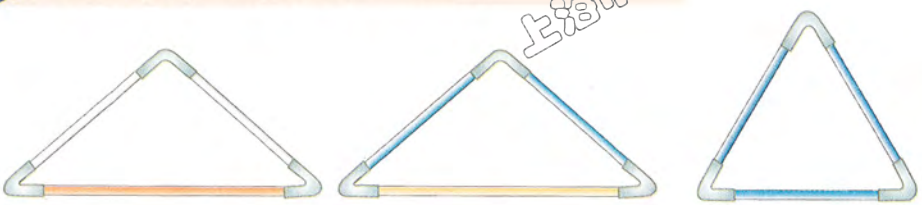

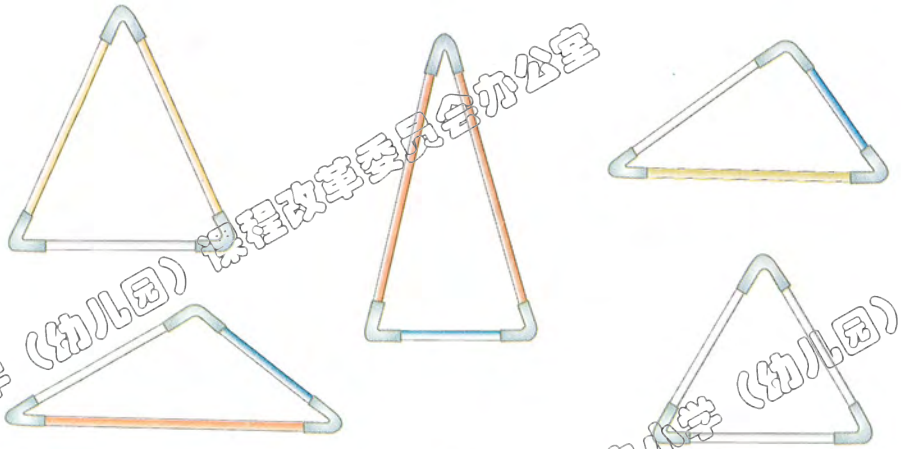

微信公众号：电子课本大全

例2　小胖、小巧、小亚做了很多三角形。

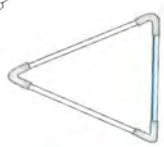
1


2


3


4

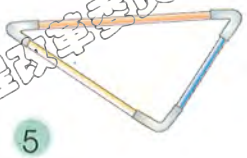
5

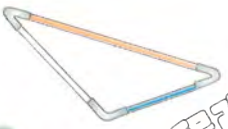
6


7


8


9


10


11


12


13

上海市中小学（幼儿园）课程改革委员会办公室
微信公众号：电子课本大全



我选的是两条边一样长的！



我选的是三条边一样长的！



我选的是三条边都不一样长的！



我来总结！

两条边相等的三角形叫做等腰三角形。

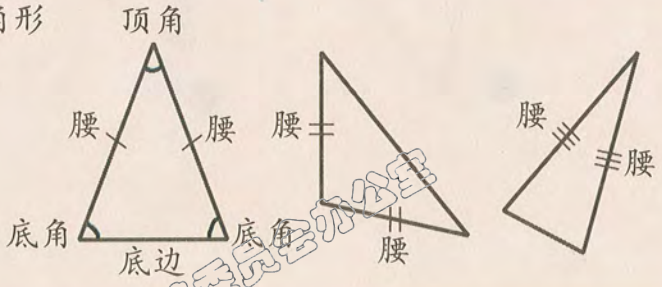

三条边都相等的三角形叫等边三角形，也叫正三角形。等边三角形是特殊的等腰三角形。



微信公众号：电子课本大全

例 3　折一折、画一画。

1 折一折，发现了什么？

等腰三角形

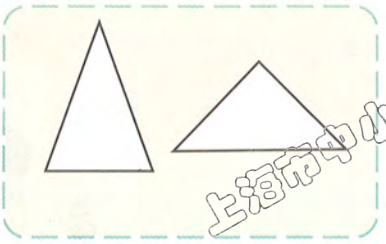

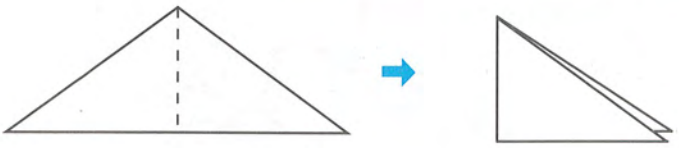

等边三角形(正三角形)

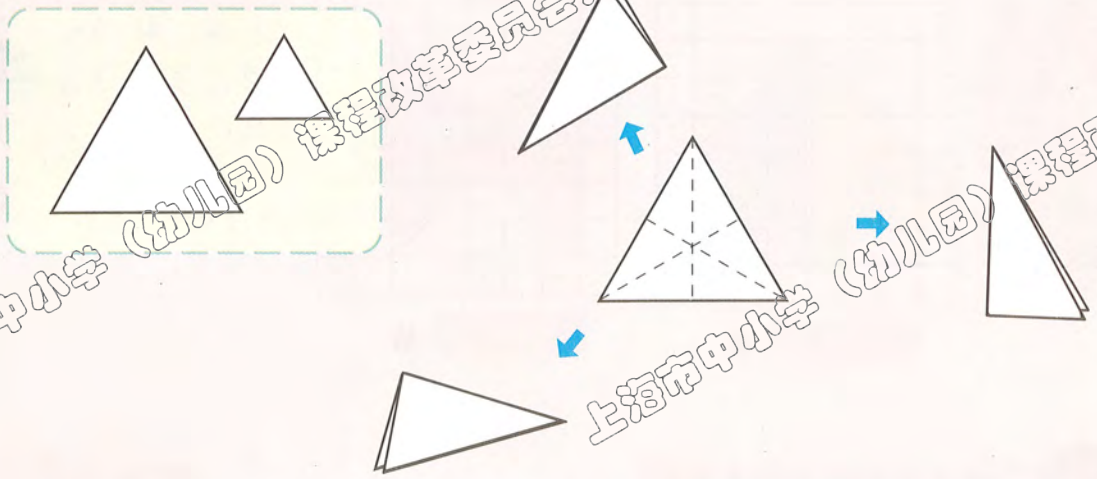

2 等腰三角形、等边三角形是轴对称图形吗？将附页中的等腰三角形、等边三角形先折叠，再沿折痕画出对称轴。

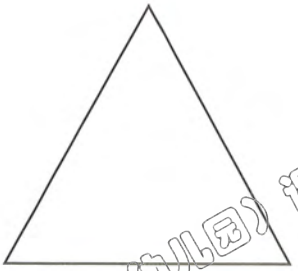



微信公众号：电子课本大全

例 1





谁占的方格多，谁就大！

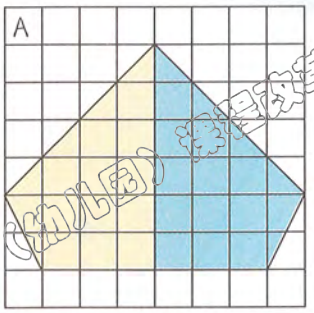

格

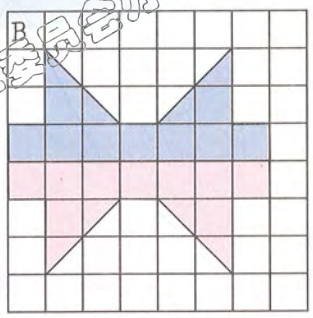

格



不满一格的可以拼凑为整格的！

A 与 B 哪个大？



下面两个图形哪个大？上面可没有方格噢！

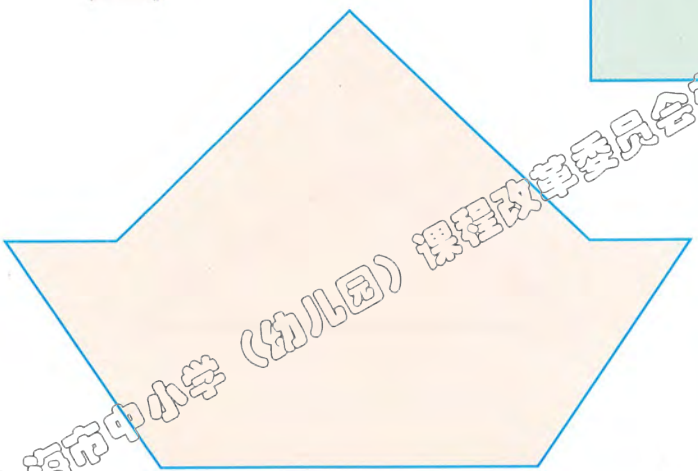



用透明方格纸放上去就有方格了。

微信公众号：电子课本大全

例 2　下面各图形有多大？用方格数表示。

1

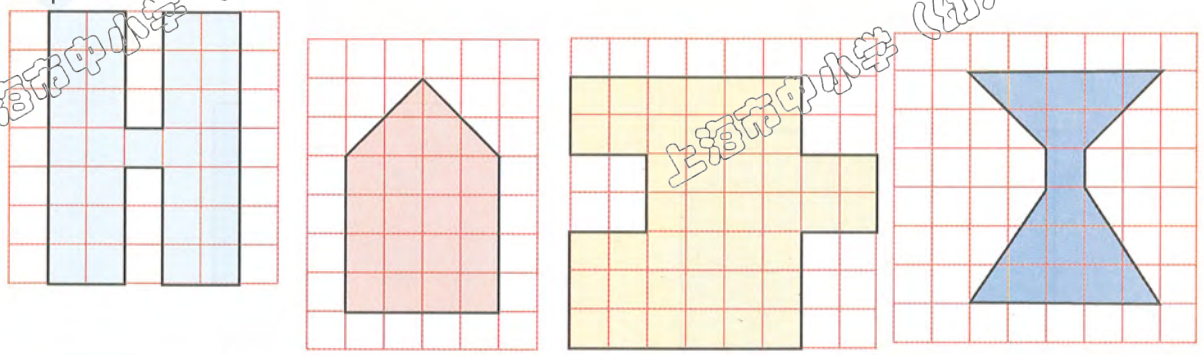

格　　格　　格　　格

2　小丁丁的家。

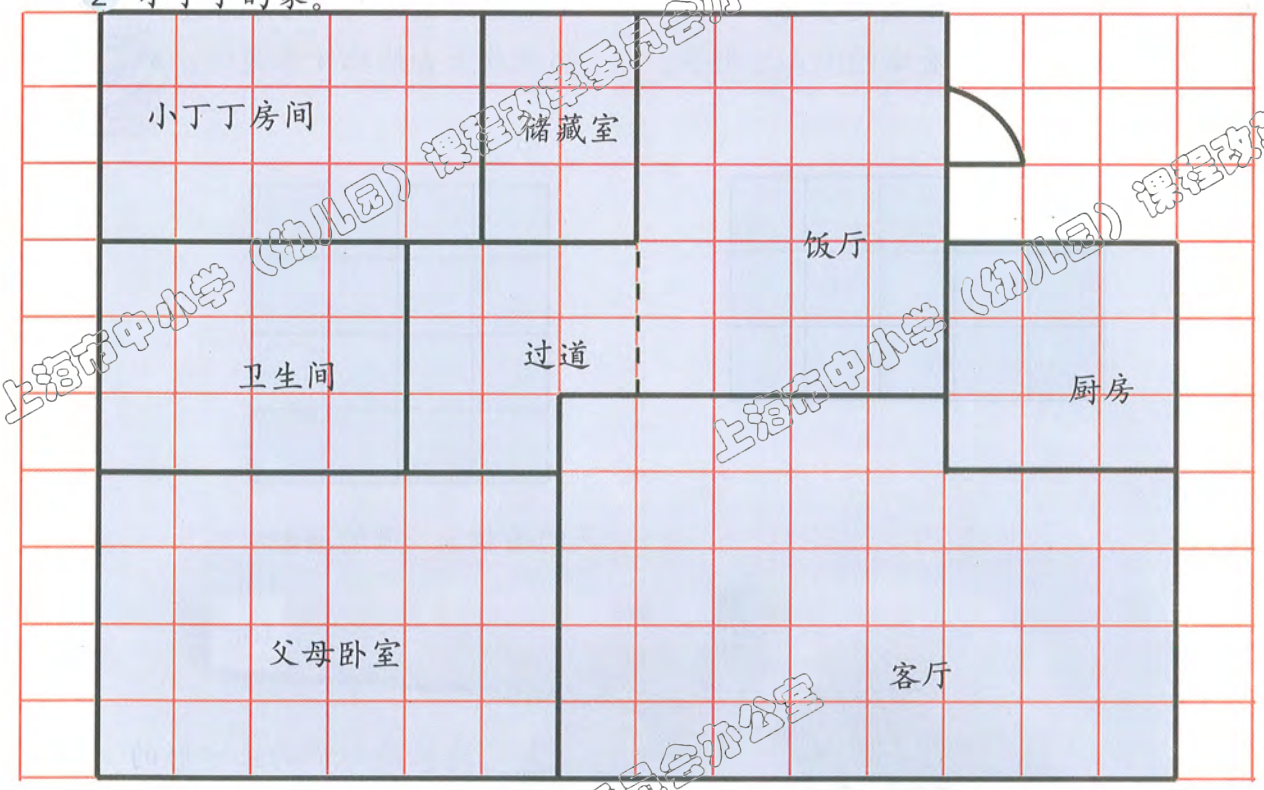

父母卧室　　格　　饭厅　　格　　小丁丁房间　　格

客厅　　格　　过道　　格　　储藏室　　格

厨房　　格　　卫生间　　格

这些图形的大小就是它们的面积。



微信公众号：电子课本大全

例 1



一个是长方形，一个是正方形，哪个面积大？

A



B





可以将它们分解成边长为 1cm 的小正方形，然后看谁的小正方形多。

用每格边长为 1cm 的方格透明纸放上去能比较出大小。



A

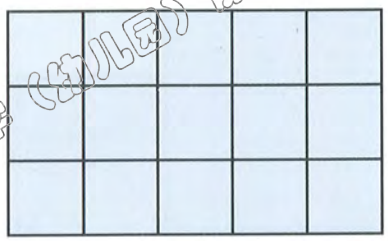

B

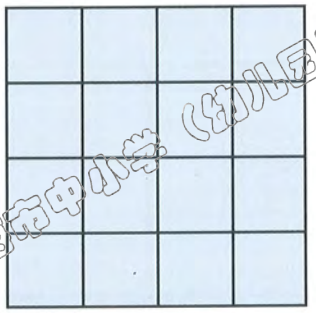

A 的面积 ● B 的面积



边长是 1cm 的正方形的面积为 1 平方厘米。写作 $1cm^2$。

长方形与正方形的面积，可以由边长为 1cm 的正方形的个数表示。



上面的长方形、正方形的面积分别是多少平方厘米？

微信公众号：电子课本大全

长方形 A 中小正方形的个数可以这样算：3 × 5 = 15 个小正方形；

长方形 A 的面积 = 15cm²。

正方形 B 中共有 _____ 个小正方形；

正方形 B 的面积 = _____。

答：长方形 A 的面积为 15cm²，正方形 B 的面积为 _____。

例 2



现在我们来总结求长方形、正方形面积的方法。





长方形



长方形面积 = 长 × 宽(或宽 × 长)

例：　长方形的长为 4cm，宽为 3cm。　　长方形面积 = 4 × 3 = 12 (cm²)

正方形



正方形面积 = 边长 × 边长

例：　正方形的边长为 3cm。　　正方形面积 = 3 × 3 = 9 (cm²)

微信公众号：电子课本大全

平方米

例 1　我做了一张 1 平方米的纸板。在 1 平方米的纸板上可以站多少个同学？

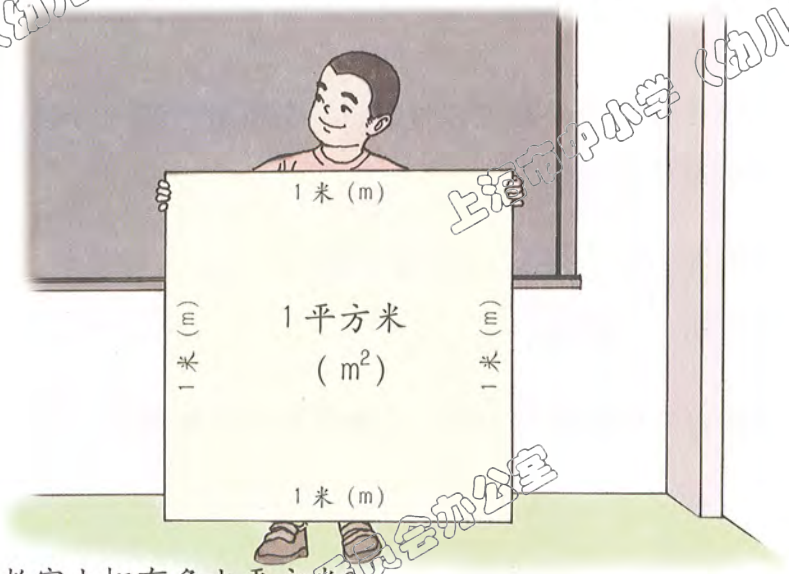

例 2　你们教室大概有多少平方米？



练一练。

下面图形的面积分别是多少平方米？

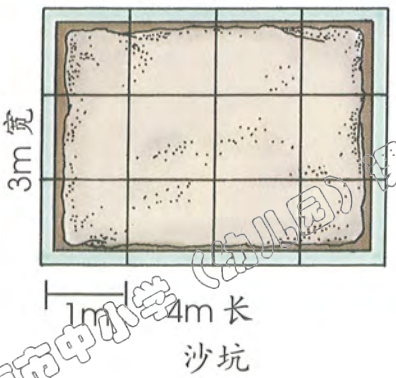





上海市中小学（幼儿园）课程改革委员会办公室
微信公众号：电子课本大全

六、整理与提高



上海市中小学（幼儿园）课程改革委员会办公室
微信公众号：电子课本大全

1. 计算。

先坐摩天轮，再玩激流勇进，并填一填算式的序号。

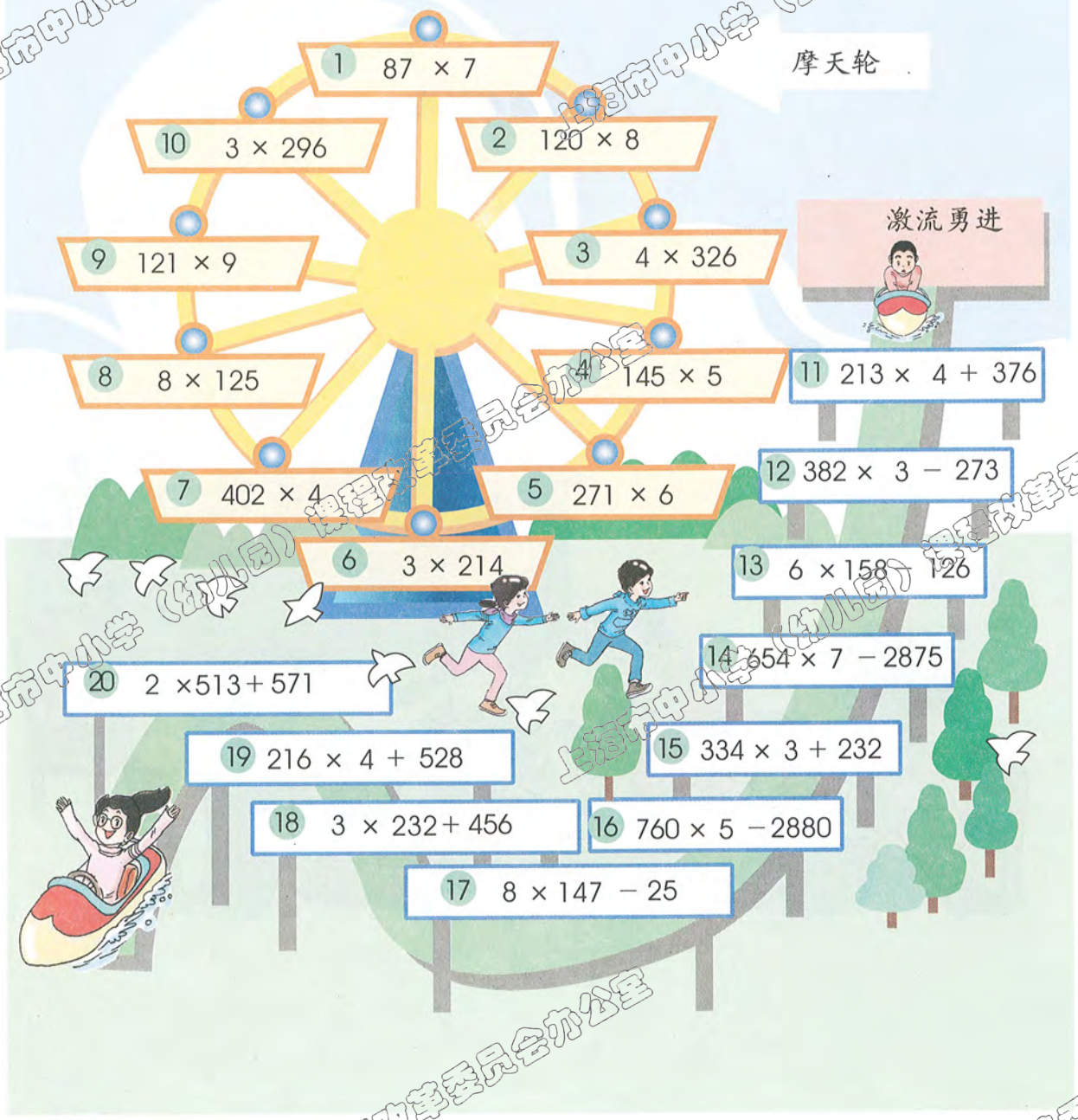

	1304	1608	1626	642	888	960	1089	725	1000	809
										1
	822	1703	1597	873	1151	920	1392	1228	1152	1234
				12						

上海市中小学（幼儿园）课程改革委员会办公室
微信公众号：电子课本大全

2. 计算。

先玩激流勇进，再坐摩天轮，并填一填算式的序号。



112	51	71	126	115	14	153	276	202	104

22 …… 2	13 …… 2	100 …… 4	104 …… 1	59 …… 2
28 …… 2	130 …… 2	13 …… 3	135 …… 1	59 …… 1

上海市中小学（幼儿园）课程改革委员会办公室
微信公众号：电子课本大全

3.





小亚、小巧、小玲在模拟宇航中心发送信息，下面是她们的发送记录。

	小亚	小巧	小玲
时间（分）	6	6	8
字母（个）	570	672	672



谁发送得快些？谁发送得慢些？

小亚和小巧都用了 6 分钟，小巧发送了 672 个字母，小亚只发送了 570 个，当然是＿＿＿＿比＿＿＿＿发送得快。

小巧和小玲都发送了 672 个字母，小玲用了 8 分钟，小巧才用了 6 分钟，当然是＿＿＿＿比＿＿＿＿发送得快。





＿＿＿＿发送得最快！

小亚和小玲用的时间不一样，发送的字母个数也不一样，怎么比？





可以算一算她们平均每分钟各发送多少个字母。

上海市中小学（幼儿园）课程改革委员会办公室
微信公众号：电子课本大全

小亚平均每分钟发送：

□ ÷ □ = □

竖式：

小玲平均每分钟发送：

□ ÷ □ = □

竖式：

小亚和小玲，□ 比 □ 发送得快些。



我也可以用这个方法来验证一下是不是小巧发送得最快！

小巧平均每分钟发送：

□ ÷ □ = □

竖式：

她们三人，发送信息从快到慢是：

□、□、□。





比较大小：

87 ÷ 3 ○ 78 ÷ 3	150 ÷ 5 ○ 105 ÷ 5	264 ÷ 4 ○ 272 ÷ 4
75 ÷ 5 ○ 75 ÷ 3	392 ÷ 2 ○ 392 ÷ 8	756 ÷ 8 ○ 756 ÷ 7
96 ÷ 8 ○ 84 ÷ 7	650 ÷ 5 ○ 990 ÷ 9	610 ÷ 5 ○ 738 ÷ 6

上海市中小学（幼儿园）课程改革委员会办公室
微信公众号：电子课本大全

解决问题

灯市





兔子灯



莲花灯



球形灯

兔子灯有 25 盏，莲花灯的盏数是兔子灯的 3 倍，球形灯的盏数是兔子灯的 4 倍。





亭子灯有 36 盏，筒形灯比亭子灯的 2 倍多 10 盏，盒子灯比亭子灯的 2 倍少 10 盏。



筒形灯



亭子灯



盒子灯

1. 筒形灯有几盏？



亭子灯



筒形灯

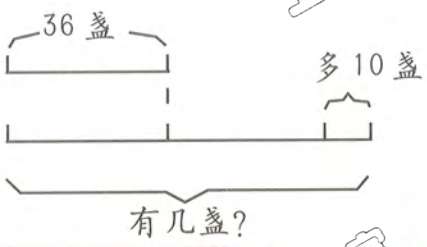

先算亭子灯的 2 倍有几盏，

□ × □ = □

再加上10盏就是筒形灯的盏数。

□ + □ = □

答：筒形灯有 □ 盏。

你能把这两个式子合并写成一个式子吗？



微信公众号：电子课本大全

2. 盒子灯有几盏？

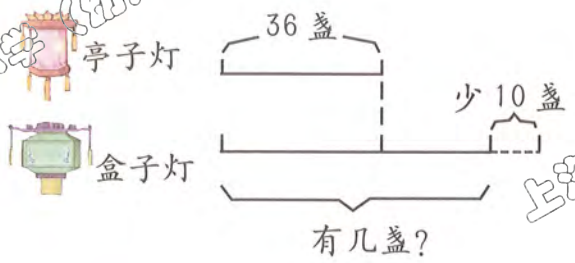



试一试 。

3. 兔子灯和莲花灯一共有几盏？

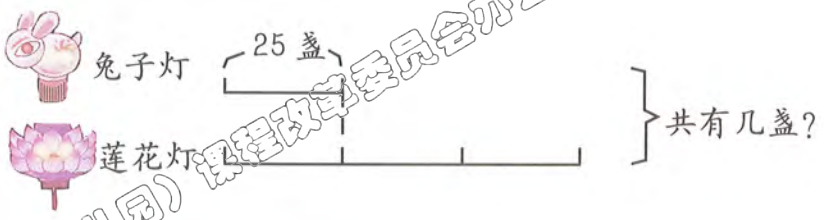



先算莲花灯有几盏，

□ × □ = □

再算兔子灯和莲花灯共有几盏。

□ + □ = □



你能把这两个式子合并写成一个式子吗？



兔子灯：1 份　　莲花灯：3 份

先算兔子灯和莲花灯共有几份：1 + 3 = 4。

每份都是 25 盏，就可以算出两种灯共有几盏。

□ × □ = □



这两个式子你也能合并写成一个式子吗？

答：兔子灯和莲花灯一共有 □ 盏。

微信公众号：电子课本大全

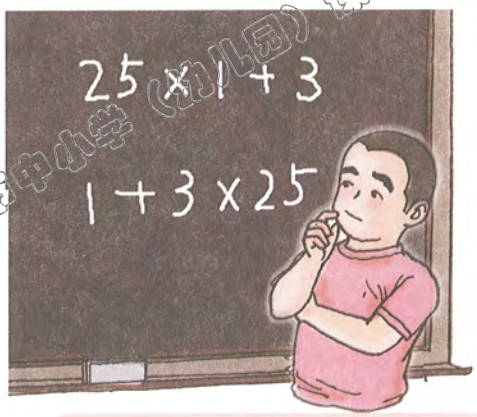



小胖，写得不对！按你写的应先乘后加，根据题意应该先算1+3，怎么办？



小巧，问得好！在先算的加法部分应加上小括号。



对呀！小括号里的总是先算。

25 ×（1 +3 ）

=

=

（1 +3 ）×25

=

=

答：兔子灯和莲花灯一共有 盏。

4. 球形灯比兔子灯多几盏？



兔子灯



球形灯





你能用几种方法做？

上海市中小学（幼儿园）课程改革委员会办公室
微信公众号：电子课本大全

喜迎新年

1. 准备联欢会



一张彩纸可以制作7个彩环，我们有218张彩纸。

1 一共可以制作多少个彩环？

2 送给其他班级125张彩纸后，剩下的彩纸可以制作多少个彩环？

3 小巧和小亚制作的彩环是小胖的4倍，小巧和小亚共制作了260个彩环。小胖制作了多少个彩环？

上海市中小学（幼儿园）课程改革委员会办公室
微信公众号：电子课本大全

2. 准备点心。

1 一块蛋糕 2 元，23 盒蛋糕需要多少钱？



总的块数：

$23 \times 4 = 92$

总的价钱：

$92 \times 2 = 184$

每盒的价钱：

$4 \times 2 = 8$

总的价钱：

$23 \times 8 = 184$

分别用一个式子表示

$23 \times 4 \times 2$

$=$

答：23 盒蛋糕需要 ＿＿ 元。

算一算。

$328 \times 3 \times 2$	$697 \times 2 \times 4$	$875 \times 3 \times 3$
$496 \times 4 \times 2$	$254 \times 2 \times 3$	$160 \times 5 \times 3$

微信公众号：电子课本大全

2 7箱矿泉水6个班平分，每个班能分到多少瓶？



总的瓶数：

$7 \times 24 = 168$

平分：

$168 \div 6 = 28$

分1箱矿泉水，每个班可以分到：

$24 \div 6 = 4$

总共可以分到：

$7 \times 4 = 28$

分别用一个式子表示

$7 \times 24 \div 6$

$=$

答：每个班能分到 ＿＿＿＿ 瓶。

试一试。

555 × 4 ÷ 5

89 × 6 ÷ 2

396 ÷ 6 × 2

645 ÷ 3 ÷ 5

966 ÷ 7 ÷ 6

456 ÷ 2 ÷ 4

上海市中小学（幼儿园）课程改革委员会办公室
微信公众号：电子课本大全



圆



三角形



正三角形



长方形



正方形



正五边形

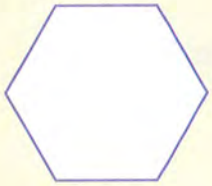

正六边形

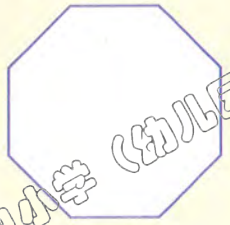

正八边形

1.



小胖的画《机器小巧》

2.



地毯

微信公众号：电子课本大全

3. 拼地砖。



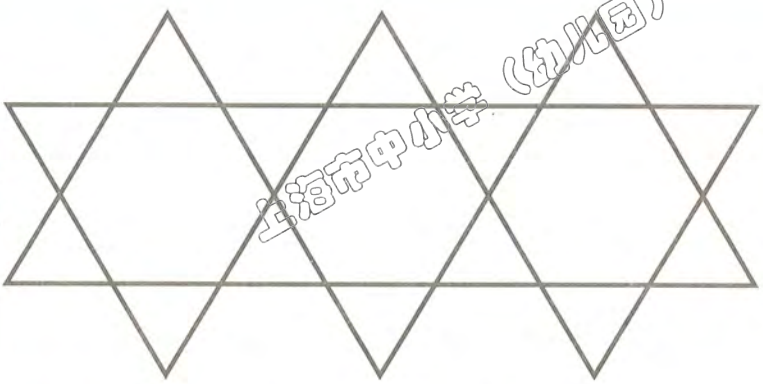



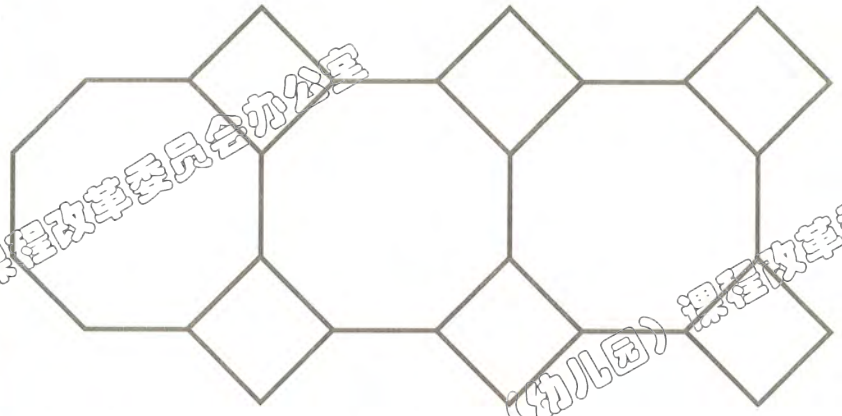

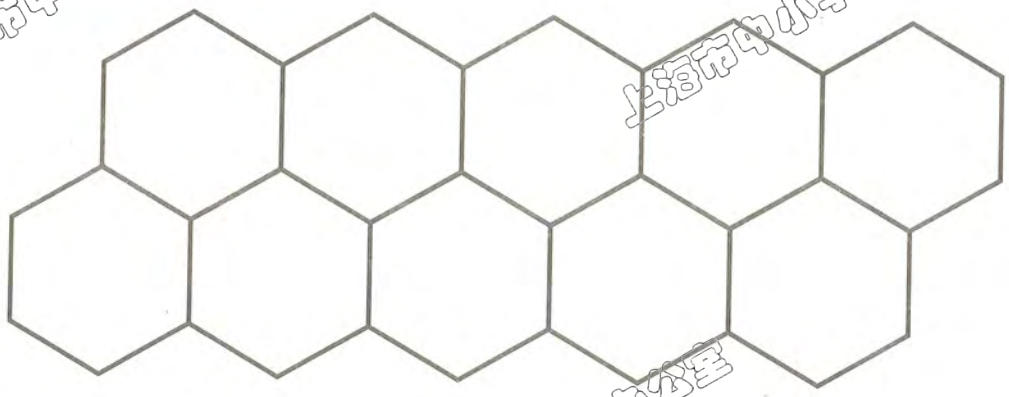

4. 下面的图案在第 76 页的地毯图中能找到吗？

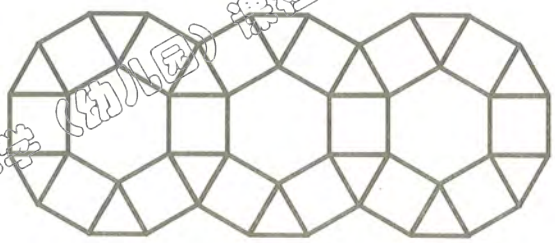

上海市中小学（幼儿园）课程改革委员会办公室
微信公众号：电子课本大全

下面的图形占几格，面积是几平方厘米？用算式表示。

A

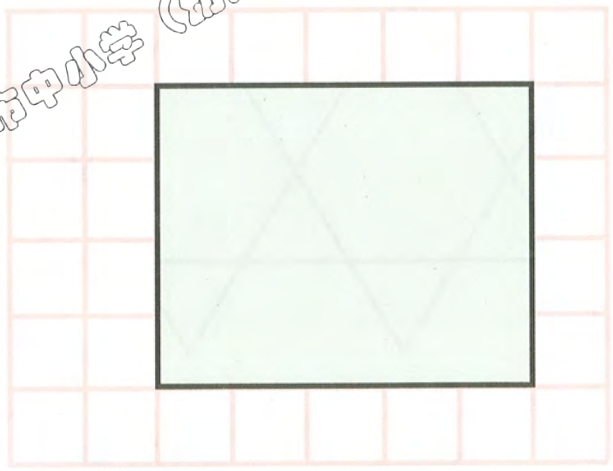

A 算式

图形 A 占 ＿＿ 格，

面积是 ＿＿ cm^2。

B

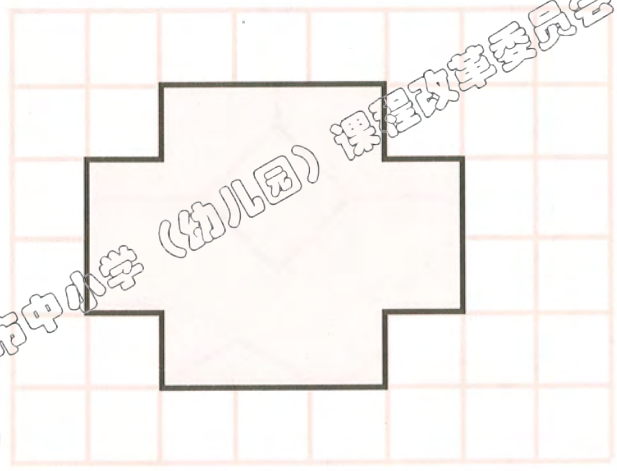

B 算式

图形 B 占 ＿＿ 格，

面积是 ＿＿ cm^2。

C

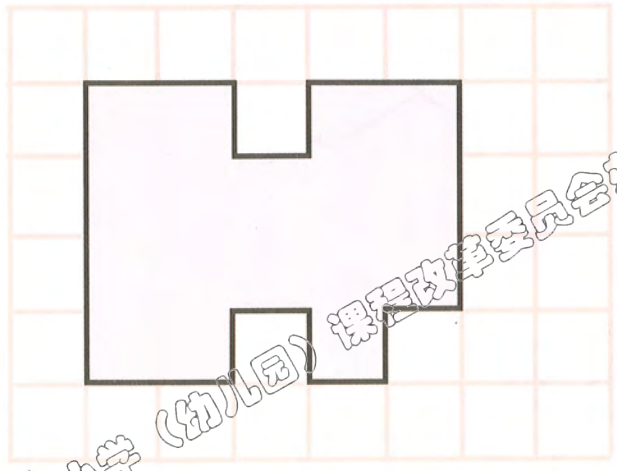

C 算式

图形 C 占 ＿＿ 格，

面积是 ＿＿ cm^2。

上海市中小学（幼儿园）课程改革委员会办公室
微信公众号：电子课本大全

计算小胖家的面积

小胖的家。
算一算面积是多少平方米。



小胖的房间
长4m，宽3m





厨房
宽2m，长3m





客厅
长5m，宽4m





父母的卧室
长6m，宽3m





走廊
宽2m，长4m



上海市中小学（幼儿园）课程改革委员会办公室
微信公众号：电子课本大全

数学广场——植树问题

例 1

1 剪绳子的发现。

剪 1 次



2 段



剪 2 次



3 段



剪 3 次



段



剪一剪，填一填。

你发现了什么规律？



剪的次数	1	2	3	4	5	6	7	8
绳子的段数								

2 植树。

仔细观察，树的棵数与段数有什么关系？



1

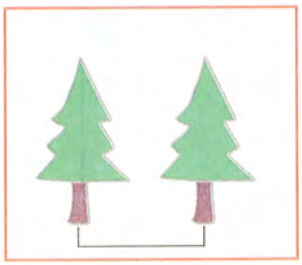

2



7 棵树之间有几段？



想一想，填一填。

树的棵数	2							
段数	1							

上海市中小学（幼儿园）课程改革委员会办公室
微信公众号：电子课本大全

例 2

一条马路长 104 米，如果在这条马路的一边每隔 8 米种一棵树（两端都种），一共要种多少棵树？

$$104 \div 8 = 13$$

$$\begin{array}{r} 13 \\ 8\overline{)104} \\ 8 \\ \hline 24 \\ 24 \\ \hline 0 \end{array}$$



每 8m 为一段，104m 刚好可以分为 13 段。

13 段就有 12 个间隔点，在每个间隔点和两端都种上树就可以了。



答：_____

练一练。

1 有一条绳子长 107 米，要把它剪成每段 3 米的短绳，全部剪完，一共要剪多少次？

2 教学楼的走廊长 56 米，如果在走廊上等间隔地摆放 8 盆花，并且走廊的两端都放花盆，那么每两盆花间隔多少米？



上海市中小学（幼儿园）课程改革委员会办公室
微信公众号：电子课本大全

例 1



照上面那样将气球从左往右挂下去，第 23 个气球是什么颜色？这 23 个气球里面有几个是绿色的？有几个是黄色的？





仔细观察上面的气球，你能发现什么规律？

从前面开始，每 5 个气球一组，每组的排法是一样的。

$23 \div 5 = 4 \cdots\cdots 3$



第 23 个气球的颜色应该与每组第 3 个气球的颜色相同。

绿色的气球应该有 $4 + 1$ 个。





黄色的气球应该有 4×2 个。

答：_____

练一练。

1 有○、△、●共 143 张卡片，按照下面的排法排列。

○△●△●△○△●△●△○△●△●△……

(1) 从左往右数，第 101 张是哪种卡片？

(2) 一共有△卡片多少张？

2 今天是几月几日？距离明年春节还有多少天？算一算明年的春节是星期几？

微信公众号：电子课本大全

例 1

用数卡 1 2 3 5 7 9 摆数。

1 摆出最大的三位数和最小的三位数，计算它们的差。



谁能试一试？

2 摆出 2 个三位数，计算它们的差，再交换其中 2 张数卡并计算新的差。

9 3 5　　9 3 5
1 7 2　　− 1 7 2

7 3 5　　7 3 5
1 2　　− 1 9 2



下面谁来继续做？

试一试。

从数卡 1 2 3 4 5 6 7 8 9 中选出 6 张，将它们摆成 2 个三位数。求两数的差。



谁能得到最大的差？

✳2



谁能得到最小的差？

✳3





差是 451

□□□ − □□□ = 4 5 1

差是 175

□□□ − □□□ = 1 7 5

微信公众号：电子课本大全

例 2　减法塔的计算。

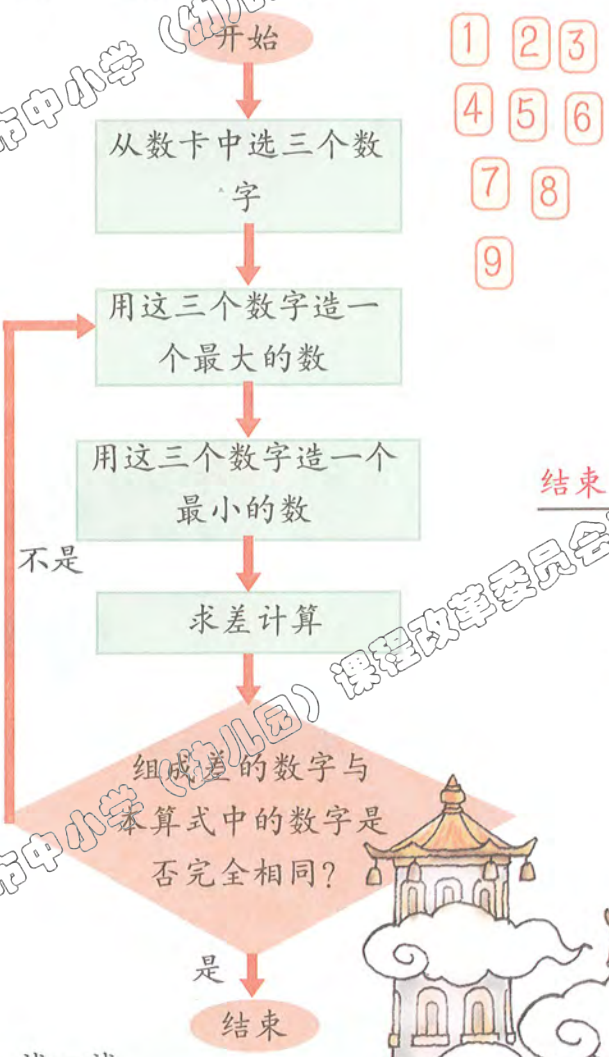

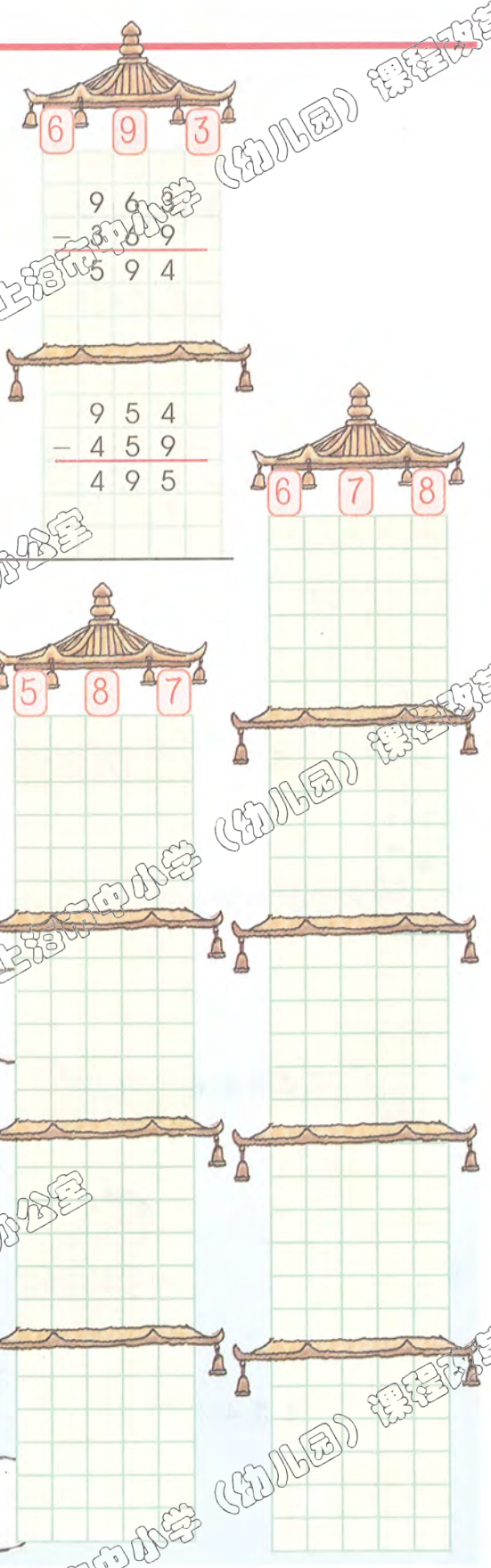

试一试。

用自己选的几组数来做减法塔。最高的减法塔有几层？



上海市中小学（幼儿园）课程改革委员会办公室
微信公众号：电子课本大全

说　明

本册教材根据上海市中小学（幼儿园）课程改革委员会制定的课程方案和《上海市中小学数学课程标准（试行稿）》编写，供九年义务教育三年级第一学期试用。

本教材由上海师范大学主持编写，经上海市中小学教材审查委员会审查准予试用。

本册教材的编写人员有：

主编：项家祥　　分册主编：黄建弘

特约撰稿人：（按姓氏笔画为序）丁明娟　佟　辉　宋永福

陈培群　徐培菁　黄建弘

欢迎广大师生来电来函指出教材的差错和不足，提出宝贵意见。上海市中小学（幼儿园）课程改革委员会办公室地址：上海市陕西北路500号（邮政编码：200041），联系电话：62560016（总机转）、52136338；出版社电话：64377165（总机转）。

声明　按照《中华人民共和国著作权法》第二十三条中，关于“为实施九年制义务教育和国家教育规划而编写出版教科书，除作者事先声明不许使用的外，可以不经著作权人许可，在教科书中汇编已经发表的作品片段或者短小的文字作品、音乐作品或单幅的美术作品、摄影作品，但应当按照规定支付报酬，指明作者姓名、作品名称”的有关规定，我们已尽量寻找原作者支付报酬。原作者如有关于支付报酬事宜可及时与出版社联系。

上海市中小学（幼儿园）课程改革委员会办公室
微信公众号：电子课本大全

上海市中小学（幼儿园）课程改革委员会办公室

微信公众号：电子课本大全

附 页

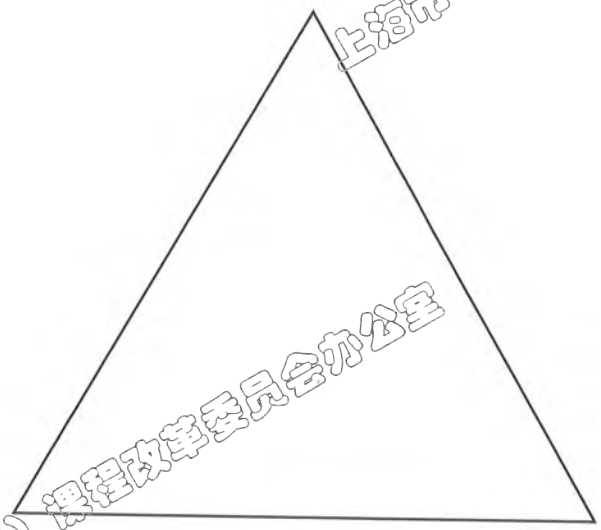

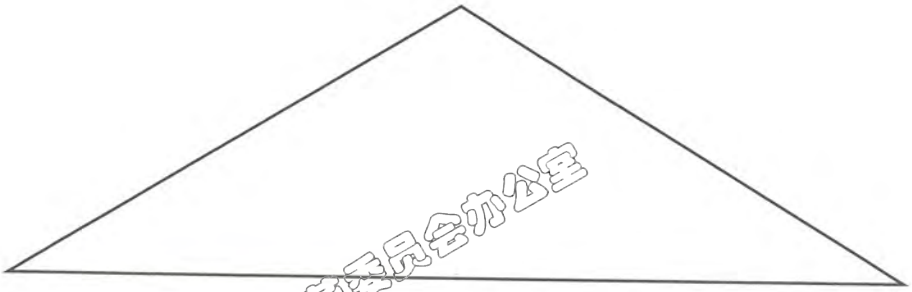

上海市中小学（幼儿园）课程改革委员会办公室
微信公众号：电子课本大全

上海市中小学（幼儿园）课程改革委员会办公室
上海市中小学（幼儿园）课程改革委员会办公室
上海市中小学（幼儿园）课程改革委员会办公室
上海市中小学（幼儿园）课程改革委员会办公室
上海市中小学（幼儿园）课程改革委员会办公室
上海市中小学（幼儿园）课程改革委员会办公室
微信公众号：电子课本大全

上海市中小学（幼儿园）课程改革委员会办公室
上海市中小学（幼儿园）课程改革委员会办公室
上海市中小学（幼儿园）课程改革委员会办公室
上海市中小学（幼儿园）课程改革委员会办公室
上海市中小学（幼儿园）课程改革委员会办公室
上海市中小学（幼儿园）课程改革委员会办公室
微信公众号：电子课本大全

经上海市中小学教材审查委员会审查
准予试用　准用号Ⅱ-XB-2010003

责任编辑　蒋徐巍

九年义务教育课本
数　学
三年级第一学期
(试用本)
上海市中小学(幼儿园)课程改革委员会

上海世纪出版股份有限公司
上海教育出版社出版
(上海永福路123号　邮政编码:200031)
上海新华书店发行　昆山市亭林印刷有限责任公司印刷

开本 787×1092　1/16　印张 5.75
2010年6月第2版　2011年5月第2次印刷
ISBN 978-7-5320-9668-8/G·9443

定价:8.45元
(附练习册 2.20 元,薄膜 0.40 元)
上海市物价局价格审查批准文号:沪价费专(2010)02 号
全国物价举报电话:12358
此书如有印、装质量问题,请向本社调换　上海教育出版社电话:64377165

ISBN 978-7-5320-9668-8
9 787532 096688 >

上海市中小学(幼儿园)课程改革委员会办公室
微信公众号：电子课本大全

九 年 义 务 教 育 课 本

三年级 第一学期
（试用本）

上海教育出版社

SHUXUE

数学

练习部分 LIANXI BUFEN

学校 _____

班级 _____

姓名 _____

学号 _____



上海市中小学（幼儿园）课程改革委员会办公室
微信公众号：电子课本大全

上海市中小学（幼儿园）课程改革委员会办公室
上海市中小学（幼儿园）课程改革委员会办公室
上海市中小学（幼儿园）课程改革委员会办公室
上海市中小学（幼儿园）课程改革委员会办公室
上海市中小学（幼儿园）课程改革委员会办公室
上海市中小学（幼儿园）课程改革委员会办公室
微信公众号：电子课本大全

1. 课本第 2－5 页

A 级

1. 算一算。

200＋300＝	340＋430＝	156＋44＝	400－100＝
670－250＝	217＋183＝	1000－600＝	110＋280＝
185＋115＝	300＋700＝	780－520＝	209＋291＝

2×3＋7＝	10－0×9＝	12÷6－2＝
41－5×8＝	6＋4×3＝	48÷8＋8＝
9×6－4＝	12－12÷3＝	9＋80÷10＝

2. 想一想，算一算。

120＋280＝	268＋132＝	546－150＝
120＋276＝	258＋142＝	556－150＝
120＋272＝	248＋152＝	566－150＝

3. 列竖式计算。

169＋2114＝	905－374＝	2000－686＝

245＋198＋362＝　　986－177＋243＝

4. 用递等式计算。

119＋386＋181　　572－138－272　　436＋187＋213

上海市中小学（幼儿园）课程改革委员会办公室
微信公众号：电子课本大全

5. 分拆与合并。

14×7	5×21	4×19
$=(\ )\times7+(\ )\times7$	$=(\ )\times5+(\ )\times5$	$=(\ )\times4+(\ )\times4$
$=$	$=$	$=$
$=$	$=$	$=$
$3\times5+2\times5$	$5\times9+4\times9$	$7\times2+2\times2$
$=(\ )\times5$	$=(\ )\times9$	$=(\ )\times2$
$=$	$=$	$=$
$16\times5-8\times5$	$13\times8-6\times8$	$4\times12-4\times7$
$=(\ )\times5$	$=(\ )\times8$	$=(\ )\times4$
$=$	$=$	$=$

6. 综合应用。

(1) 叔叔在果园里摘桃子，第一天摘了156千克，第二天和第三天各摘了200千克。叔叔一共摘了多少千克桃子？

(2) 小巧买了两套连环画，一套连环画要25元，另一套连环画有3本，每本8元。这两套连环画一共需要多少元？

B级

小丁丁用小圆片在位值图上摆出了数401，小亚移动了一片小圆片，现在这个数可能是_____。

百	十	个
••••		•

上海市中小学（幼儿园）课程改革委员会办公室
微信公众号：电子课本大全

2. 课本第6—7页

A级

1. 连乘。

$4\times3\times2$ =　　$5\times1\times9$ =　　$2\times2\times7$ =

$0\times10\times6$ =　　$3\times2\times8$ =　　$5\times2\times4$ =

$3\times3\times3$ =　　$2\times4\times6$ =　　$7\times9\times0$ =

2. 连除。

$18\div2\div3$ =　　$54\div9\div2$ =　　$36\div6\div6$ =

$72\div9\div4$ =　　$30\div6\div5$ =　　$42\div7\div2$ =

$45\div5\div3$ =　　$80\div10\div4$ =　　$64\div8\div2$ =

上海市中小学（幼儿园）课程改革委员会办公室
微信公众号：电子课本大全

B 级

迎国庆，同学们准备联欢会。

(1) 同学们做了 81 只纸鹤，每 9 只纸鹤串成一串，每 3 串纸鹤分给一个小组。这些纸鹤可以分给多少个小组？

(2) 老师买来一些水果正好分给三年级的同学们。三年级一共有 5 个班级，每个班级都有 4 组，平均每个小组分到了 2 千克水果。老师一共买来多少千克水果？

(3) 学校走廊上贴满了同学们为了“迎国庆”创作的儿童画。一、二年级一共有 8 个班，平均每个班有 5 幅作品，三、四、五年级展示的作品总数是一、二年级的 2 倍。三、四、五年级一共展示了多少幅儿童画？

(4) 同学们在大礼堂举行才艺比赛，一共有 16 个节目，其中有一半的节目获得了鼓励奖，剩余节目中的一半获得了优胜奖。获得优胜奖的节目有多少个？

上海市中小学（幼儿园）课程改革委员会办公室
微信公众号：电子课本大全

A 级

1. 想一想，算一算。

$2\times3=$	$6\times7=$	$9\times8=$
$2\times30=$	$6\times70=$	$9\times80=$
$2\times300=$	$6\times700=$	$9\times800=$
$20\times3=$	$60\times7=$	$90\times8=$
$200\times3=$	$600\times7=$	$900\times8=$

$3\times4=$	$7\times2=$	$5\times7=$
$30\times4=$	$70\times2=$	$5\times70=$
$300\times4=$	$700\times2=$	$5\times700=$
$3\times40=$	$7\times20=$	$50\times7=$
$3\times400=$	$7\times200=$	$500\times7=$

2. 算一算。

$20\times5+10=$	$3\times800-20=$	$1\times2\times30=$
$500-7\times70=$	$60+90\times6=$	$40\times3-40=$

3. 比较大小，在◯中填入“＞”、“＜”或“＝”。

9×50 ◯ 90×5	40×6 ◯ 3×70	8×200 ◯ 500×6
300×3 ◯ 5×200	7×90 ◯ 60×60	600×4 ◯ 800×3

4. 综合应用。

（1）湖边种着 2 排梧桐树，每排有 60 棵。湖边的梧桐树一共有多少棵？

上海市中小学（幼儿园）课程改革委员会办公室
微信公众号：电子课本大全

(2) 水果店运来8箱苹果，每箱30千克。水果店一共运来苹果多少千克？

(3) 一箱打印纸有5包，一包打印纸有500张。一箱打印纸一共有几张？

(4) 某住宅小区有300个小轿车的停车位，自行车的停车位是小轿车的9倍。这个住宅小区一共有多少个自行车的停车位？

(5) 电动自行车装配车间要装配200辆电动自行车，420个车轮够吗？

B级

“神舟五号”飞船绕地球飞行一圈大约需要90分钟，4小时能不能绕地球飞行3圈？

上海市中小学（幼儿园）课程改革委员会办公室
微信公众号：电子课本大全

A 级

1. 计算。

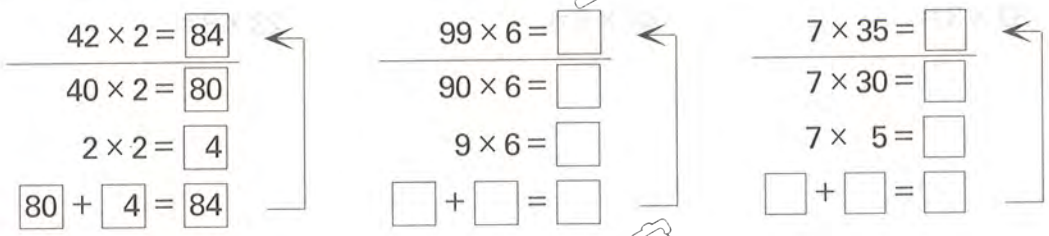

2. 写出计算过程。

6 × 53 =

31 × 4 =

8 × 47 =

98 × 6 =

4 × 45 =

9 × 89 =

B 级

1. 果园里种了 6 行枇杷树，每行 36 棵。果园里一共有几棵枇杷树？

2. 一头奶牛每天产奶 12 千克，一个星期产奶多少千克？

上海市中小学（幼儿园）课程改革委员会办公室
微信公众号：电子课本大全

5. 课本第 17 页

A 级

1. 列竖式计算。

$32 \times 3 =$　　$41 \times 6 =$　　$23 \times 3 =$

$4 \times 52 =$　　$2 \times 94 =$　　$9 \times 81 =$

2. 综合应用。

(1) 一辆客车可以坐 42 名乘客，4 辆这样的客车可以坐多少名乘客？

(2) 一只豹的体重是 72 千克，一只老虎的体重是它的 4 倍。这只老虎的体重是多少千克？

上海市中小学（幼儿园）课程改革委员会办公室
微信公众号：电子课本大全

B 级

1. 有 4 盒饼干，如右图。



（1）一共有多少块饼干？

（2）每个小朋友分得 5 块饼干，分给 21 个小朋友，够分吗？

2. 国庆前夕，小胖、小丁丁、小亚和小巧结伴去敬老院看望老人们，他们从储蓄罐中拿出了平时节省下来的零用钱为老人们买了一些食品。一共拿出的钱数统计如下表：

面额（元）	50	20	10	5	1
张数（张）	1	5	2	6	18

请你帮他们算一算：

（1）从储蓄罐中一共拿出多少钱？

（2）小伙伴们用这些钱买了 3 盒蛋糕，每盒蛋糕 63 元。剩下的钱买了一罐巧克力后正好用完，这罐巧克力多少钱？

上海市中小学（幼儿园）课程改革委员会办公室
微信公众号：电子课本大全

A级

1. 列竖式计算。

15×3=　　38×2=　　4×17=

6×16=　　4×24=　　7×14=

2. 综合应用。

(1) 小胖今天上学路上用了15分钟，爸爸上班路上用的时间正好是小胖的4倍。小胖爸爸今天上班路上用了多少时间？

(2) 购买2套围棋(如右图)，一共需要多少元钱？



一套围棋(棋盘+棋子)：47元

B级

投篮球比赛中，三(2)班30个同学中已有29个同学投完了，平均每人投进3个球，最后一个同学如果投进4个球就能超过三(1)班的成绩。三(2)班一共至少要投进多少个球才能战胜三(1)班？

上海市中小学（幼儿园）课程改革委员会办公室
微信公众号：电子课本大全

A 级

1. 先估一估每题的结果在哪两个数之间，再计算。

5×78　　82×6

积在(　　)和(　　)之间　　积在(　　)和(　　)之间

2. 下面的算式算得对不对？对的在(　　)里打“√”，错的打“×”并改正。

13 × 6 = 68	61 × 5 = 305	16 × 6 = 636	56 × 4 = 204
(　　)	(　　)	(　　)	(　　)

正确的算式：

3. 列竖式计算。

3×56=　　28×7=　　6×19=

43×5=　　9×62=　　75×8=

上海市中小学（幼儿园）课程改革委员会办公室
微信公众号：电子课本大全

4. 综合应用。

(1) 从校门口到教学楼的路上摆了 4 列菊花，每列有 38 盆。4 列菊花一共有多少盆？

(2) 一只丹顶鹤的体重是 9 千克，一只鸵鸟的体重是它的 13 倍。这只鸵鸟的体重是多少千克？

(3) 小丁丁看一本漫画书，每天看 16 页，他连续看了 8 天后，还剩 7 页没看。小丁丁 8 天总共看了多少页？这本漫画书总共有多少页？

B 级

同学们乘车去秋游，每辆车可乘 45 人，前 4 辆车全部乘满，第 5 辆车还有 17 个空位。总共有多少人参加秋游？

上海市中小学（幼儿园）课程改革委员会办公室
微信公众号：电子课本大全

A 级

1. 计算。

$3 \times 678 = 2034$

$3 \times 600 = 1800$

$3 \times 70 = 210$

$3 \times 8 = 24$

$1800 + 210 + 24 = 2034$

$361 \times 5 =$

$300 \times 5 =$

$60 \times 5 =$

$1 \times 5 =$

$+ + =$

$4 \times 182 =$

$4 \times 100 =$

$4 \times 80 =$

$4 \times 2 =$

$+ + =$

$257 \times 7 =$

$200 \times 7 =$

$50 \times 7 =$

$7 \times 7 =$

$+ + =$

2. 写出计算过程。

$7 \times 605 =$

$912 \times 4 =$

$146 \times 8 =$

B 级

小胖和爸爸妈妈一起去上海大剧院看戏，每张戏票 185 元。他们买戏票一共花去多少钱？

上海市中小学（幼儿园）课程改革委员会办公室
微信公众号：电子课本大全

A级

1. 先说说积是几位数，再列竖式计算。

$212 \times 4 =$　　$5 \times 321 =$　　$3 \times 647 =$

$4 \times 595 =$　　$113 \times 8 =$　　$448 \times 9 =$

2. 下面的算式算得对不对？对的在（　　）里打“√”，错的打“×”并改正。

276 × 4 = 804	832 × 5 = 416	359 × 5 = 1545	603 × 7 = 4221
（　　）	（　　）	（　　）	（　　）

正确的算式：

上海市中小学（幼儿园）课程改革委员会办公室
微信公众号：电子课本大全

3. 列竖式计算。

301×2=　　409×3=　　706×7=

602×9=　　204×5=　　505×8=

4. 选择题，在（　）里填入适当的编号。

（1）6×705 的积的末尾有（　　）。

A. 一个 0　　B. 两个 0　　C. 三个 0

（2）193×2+193（　　）193×3。

A. ＜　　B. ＝　　C. ＞

（3）不计算，看下面几道算式，（　　）的得数最大。

A. 809×4　　B. 809×5　　C. 908×5

5. 综合应用。

（1）一头梅花鹿高 128 厘米，一头长颈鹿的高度是梅花鹿的 4 倍。这头长颈鹿高多少厘米？

上海市中小学（幼儿园）课程改革委员会办公室
微信公众号：电子课本大全

(2) 一节火车车厢有 118 个座位，8 节这样的车厢有多少个座位？

(3) 一头牛的体重是 405 千克，一头大象的体重相当于 6 头牛的体重。这头大象的体重是多少千克？

(4) 博物馆某天上午有 3 批学生来参观，每批 207 人，下午参观的学生有 469 人。这天上午有多少名学生来参观？这天一共有多少名学生来参观？

B 级

想一想，算一算。

$2 \times 99 =$	$2 \times 999 =$
$3 \times 99 =$	$3 \times 999 =$
$4 \times 99 =$	$4 \times 999 =$
$5 \times 99 =$	$5 \times 999 =$
$6 \times 99 =$	$6 \times 999 =$
$7 \times 99 =$	$7 \times 999 =$
$8 \times 99 =$	$8 \times 999 =$



上海市中小学（幼儿园）课程改革委员会办公室
微信公众号：电子课本大全

A级

1. 列竖式计算。

610×3=　　9×270=　　320×8=

450×6=　　504×5=　　560×5=

2. 在(　　)里填上合适的数。

(1) 850×4的积的末尾有(　　)个0;301×7的积的中间有(　　)个0。

(2) 甲数是960,乙数是甲数的3倍,乙数是(　　);丙数比乙数少906,丙数是(　　);这三个数从小到大排列是(　　)。

(3) 205 $\xrightarrow{\times 2}$ (　　) $\xrightarrow{\times 5}$ (　　) $\xrightarrow{-1095}$ (　　) $\xrightarrow{\times 4}$ (　　)。

3. 综合应用。

(1) 跳绳比赛用的短绳长140厘米,长绳的长度是短绳长度的4倍。长绳长多少厘米?

上海市中小学(幼儿园)课程改革委员会办公室
微信公众号:电子课本大全

(2) 植物园今年种了 170 棵松树，种的梧桐树是松树的 3 倍。

① 今年种梧桐树多少棵？

② 今年种松树和梧桐树一共多少棵？

B 级

1. 一条蚕吐丝大约 1500 米，小巧养了 8 条蚕，一共吐丝大约多少米？

2. 小实践：请你先试一试，再填一填。

(1)



每分钟跑(　　)米
2 分钟可以跑(　　)米

(2)



每分钟脉搏跳动(　　)次
7 分钟脉搏跳动(　　)次

(3)



每分钟写(　　)个字
10 分钟可以写(　　)个字

(4)



每分钟跳短绳(　　)下
5 分钟可以跳短绳(　　)下

上海市中小学（幼儿园）课程改革委员会办公室
微信公众号：电子课本大全

11. 课本第 23～24 页

A 级

1. 算一算。

$4 \times 12 =$	$3 \times 23 =$	$11 \times 7 =$
$4 \times 120 =$	$3 \times 230 =$	$110 \times 7 =$
$6 \times 40 =$	$900 \times 8 =$	$5 \times 60 =$
$600 \times 4 =$	$9 \times 80 =$	$500 \times 6 =$

2. 不算出结果，你能把积小于 3000 的算式圈出来吗？

8×401	905×3	6×510	7×407
690×5	4×702	820×2	910×9

3. 列竖式计算。

$273 \times 4 =$	$5 \times 318 =$	$695 \times 6 =$
$207 \times 4 =$	$5 \times 308 =$	$609 \times 6 =$
$270 \times 4 =$	$5 \times 380 =$	$690 \times 6 =$

上海市中小学（幼儿园）课程改革委员会办公室
微信公众号：电子课本大全

4. 用递等式计算。

230×4+300　　216×3−126　　1570−5×314

286+7×502　　1000−109×7　　763×8+99

5. 比较大小，在◯中填入“>”、“<”或“=”。

102×5 ◯ 500　　170×2 ◯ 340　　180×6 ◯ 1000

43×3 ◯ 43×7　　25×4 ◯ 5×24　　16×5 ◯ 15×6

6. 哪道题的得数大？画“√”表示。

(1) 0+1+2+3+4+5+6+7+8+9+10 …… (　　)

(2) 0×1×2×3×4×5×6×7×8×9×10 …… (　　)

7. 综合应用。

(1) 一只8厘米长的蚱蜢一次跳跃的距离是它身长的16倍。这只蚱蜢一次跳跃的距离大约是多少厘米？

(2) 

① 小巧5分钟能打多少个字？

上海市中小学（幼儿园）课程改革委员会办公室
微信公众号：电子课本大全

② 小巧打一篇一共 508 个字的文章，5 分钟后她还剩多少个字没打完？

③ 再打 8 分钟，小巧能打完这篇文章吗？

(3) 观察下面的价目表：

一副羽毛球拍	一辆模型赛车	一个福娃玩具
56 元	230 元	128 元

① 买 2 个福娃玩具和一副羽毛球拍，一共需要多少钱？

② 你还能提出哪些数学问题？请把数学问题写在横线上，并且列式解答。

提问：

算式：

答：

B 级



“502×4，250×6，525×2”的乘积正好是下面三辆车的车牌号的最后四位数字，你能算出这三个车牌号的最后四位数字分别是几吗？

车牌号的末尾有两个 0



车牌号的中间和末尾各有一个 0



车牌号的中间有两个 0



上海市中小学（幼儿园）课程改革委员会办公室
微信公众号：电子课本大全

12. 课本第 26 ~ 31 页

A 级

1. 观察 2004 年年历，填一填。



(1) ① 一年有_____个月。

② 31 天的月份：_____。

③ 30 天的月份：_____。

④ 2004 年的 2 月份有_____天，2004 年是_____年。

(2) 星期几？

2004 年 1 月 1 日：_____。

3 月 8 日：_____。

5 月 1 日：_____。

10 月 1 日：_____。

上海市中小学（幼儿园）课程改革委员会办公室
微信公众号：电子课本大全

你知道这些国定假日是几月几日吗？知道今年的这些国定假日分别是星期几吗？

元旦	妇女节	植树节	劳动节
（ ）月（ ）日	（ ）月（ ）日	（ ）月（ ）日	（ ）月（ ）日
星期（ ）	星期（ ）	星期（ ）	星期（ ）

儿童节	建军节	教师节	国庆节
（ ）月（ ）日	（ ）月（ ）日	（ ）月（ ）日	（ ）月（ ）日
星期（ ）	星期（ ）	星期（ ）	星期（ ）

3. 下面表格中记录了1997年～2010年的年历中2月份的天数。在这些年份中，哪几个是平年？哪几个是闰年？

年份	1997	1998	1999	2000	2001	2002	2003
2月份天数	28	28	28	29	28	28	28

年份	2004	2005	2006	2007	2008	2009	2010
2月份天数	29	28	28	28	29	28	28

1997年～2010年，在这些年份中：

平年：_____

闰年：_____

B级



你知道今年春节、元宵节、清明节、端午节、重阳节分别是星期几吗？

上海市中小学（幼儿园）课程改革委员会办公室
微信公众号：电子课本大全

13. 课本第 32、33 页

A 级

1. 计算。

720 ÷ 9 =	630 ÷ 9 =	280 ÷ 4 =	320 ÷ 8 =
160 ÷ 4 =	140 ÷ 7 =	540 ÷ 6 =	240 ÷ 6 =
560 ÷ 8 =	100 ÷ 5 =	700 ÷ 7 =	180 ÷ 3 =
150 ÷ 5 =	810 ÷ 9 =	400 ÷ 8 =	210 ÷ 7 =
320 ÷ 4 =	480 ÷ 8 =	180 ÷ 2 =	200 ÷ 5 =

2. 综合应用。



这本书一共 270 页，我已经看了 90 页。

（1）还剩多少页没看？

（2）剩下的页数要在 3 天内看完，平均每天看多少页？

B 级

仔细观察下图，（　　）中分别应该填几？

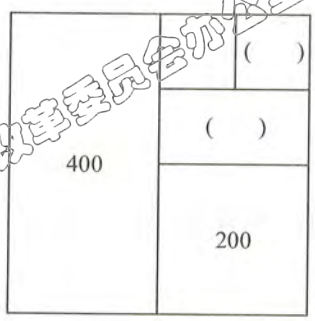

上海市中小学（幼儿园）课程改革委员会办公室
微信公众号：电子课本大全

14. 课本第34页

A级

1. 计算。

84÷7=	89÷6=	94÷8=
70÷7=	60÷6=	80÷8=
14÷7=	29÷6=	14÷8=
47÷3=	56÷4=	74÷5=
30÷3=	40÷4=	50÷5=
17÷3=	16÷4=	24÷5=

2. 计算。

96÷8=	91÷6=	96÷9=
87÷7=	79÷5=	67÷4=

B级

有52个网球，如果每3个网球装一筒，那么最多能装几筒？还剩几个？

上海市中小学（幼儿园）课程改革委员会办公室
微信公众号：电子课本大全

15. 课本第35～36页

A级

1. 列竖式计算。

75÷3=　　56÷4=　　91÷2=

94÷4=　　62÷7=　　90÷8=

47÷6=　　81÷5=　　70÷5=

2. 下面的算式算得对不对？对的在(　　)里打“√”，错的打“×”并改正。

$$\begin{array}{r} 14 \\ 4\overline{)63} \\ 4 \\ \hline 23 \\ 16 \\ \hline 7 \end{array}$$

(　　)

$$\begin{array}{r} 10 \\ 5\overline{)80} \\ 5 \\ \hline 4 \end{array}$$

(　　)

$$\begin{array}{r} 20 \\ 3\overline{)62} \\ 6 \\ \hline 2 \end{array}$$

(　　)

$$\begin{array}{r} 47 \\ 2\overline{)95} \\ 8 \\ \hline 15 \\ 14 \\ \hline 1 \end{array}$$

(　　)

微信公众号：电子课本大全

正确的算式：

3. 综合应用。

（1）学校船模组一共有60人，如果每4人一组，那么可以分成多少组？

（2）小胖在国庆黄金周旅游时拍了78张照片。如果把这些照片放在每页插4张照片的相册里，那么能放满几页？还剩几张？

（3）一袋糖有52粒，如果3人平均分，那么每人能分到几粒？还剩几粒？

上海市中小学（幼儿园）课程改革委员会办公室
微信公众号：电子课本大全

B 级

1. 有 89 张“中国 2010 年上海世博会吉祥物——海宝”的图片。根据下表，算一算，填一填。

分给 3 个小组	每组分到（　　）张	还剩余（　　）张
分给 5 个小组	每组分到（　　）张	还剩余（　　）张
分给 7 个小组	每组分到（　　）张	还剩余（　　）张
分给 9 个小组	每组分到（　　）张	还剩余（　　）张





2. 

我 3 天大约吃 42 只害虫。

我一周大约吃 91 只害虫。



你能提出哪些数学问题？请把问题写在横线上，并且列式解答。

（1）提问：_____

算式：_____

答：_____

（2）提问：_____

算式：_____

答：_____

上海市中小学（幼儿园）课程改革委员会办公室
微信公众号：电子课本大全

16. 课本第 37～38 页

A 级

1. 算一算。

24 ÷ 2 =　　63 ÷ 3 =　　55 ÷ 5 =

88 ÷ 4 =　　70 ÷ 7 =　　90 ÷ 3 =

2. 先估一估商是几位数，再列竖式计算。

91 ÷ 7 =　　78 ÷ 8 =　　57 ÷ 2 =

56 ÷ 5 =　　89 ÷ 4 =　　95 ÷ 3 =

79 ÷ 7 =　　68 ÷ 6 =　　89 ÷ 2 =

83 ÷ 4 =　　62 ÷ 3 =　　97 ÷ 9 =

上海市中小学（幼儿园）课程改革委员会办公室
微信公众号：电子课本大全

3. 列竖式计算，并验算。

80 ÷ 6 =　　87 ÷ 2 =

78 ÷ 5 =　　98 ÷ 4 =

91 ÷ 3 =　　75 ÷ 7 =

4. 实验小学三年级某小队 3 个组收集废电池情况如下表，请将表格填写完整：

	第一组	第二组	第三组
人数	4	5	3
收集的总节数	56	75	39
平均每人收集的节数			

B 级

在□里填上合适的数字。

□□ ÷ 5 = 18……1　　□□ ÷ 4 = 21……□

上海市中小学（幼儿园）课程改革委员会办公室
微信公众号：电子课本大全

17. 课本第 39～40 页

1. 计算。

672 ÷ 6 =

600 ÷ 6 =
60 ÷ 6 =
12 ÷ 6 =

893 ÷ 4 =

800 ÷ 4 =
80 ÷ 4 =
13 ÷ 4 =

785 ÷ 3 =

600 ÷ 3 =
180 ÷ 3 =
5 ÷ 3 =

481 ÷ 2 =

400 ÷ 2 =
80 ÷ 2 =
1 ÷ 2 =

218 ÷ 4 =

200 ÷ 4 =
18 ÷ 4 =

728 ÷ 8 =

720 ÷ 8 =
8 ÷ 8 =

2. 算一算。

73 ÷ 9 =　　100 ÷ 5 =　　560 ÷ 8 =

84 ÷ 4 =　　280 ÷ 7 =　　4200 ÷ 6 =

3. （　　）中最大能填几？

（　　）× 4 < 35　　（　　）× 3 < 30　　7 ×（　　）< 48

5 ×（　　）< 40　　（　　）× 9 < 54　　（　　）× 8 < 63

上海市中小学（幼儿园）课程改革委员会办公室
微信公众号：电子课本大全

4. 先估一估商是几位数，再列竖式计算，打“*”号的要验算。

284 ÷ 2 =　　825 ÷ 3 =　　696 ÷ 6 =

788 ÷ 3 =　　951 ÷ 4 =　　497 ÷ 3 =

906 ÷ 4 =　　705 ÷ 5 =　　890 ÷ 8 =

* 940 ÷ 3 =　　* 821 ÷ 7 =

上海市中小学（幼儿园）课程改革委员会办公室
微信公众号：电子课本大全

5. 综合应用。

(1) 小亚家共有522本书，如果平均放在3个书架上，那么每个书架上放多少本书？

(2) 一卷丝带长459米，最多能剪多少根2米长的带子？还剩多少米？

(3) 果农从果树上共摘下了670千克苹果。如果4千克装一箱，那么这些苹果能装满多少箱？还剩下多少千克？

(4) 874张彩色折纸平均分给6个班，每个班能分到多少张？还剩下多少张？

B级

把4、9、3、5填在适当的方格内，使下式的商最大。

□□÷□□

上海市中小学（幼儿园）课程改革委员会办公室
微信公众号：电子课本大全

18. 课本第 41 页

A 级

1. 先估一估商是几位数，再列竖式计算。

742 ÷ 7 =　　834 ÷ 4 =　　907 ÷ 3 =

481 ÷ 2 =　　662 ÷ 3 =　　807 ÷ 8 =

916 ÷ 3 =　　800 ÷ 5 =　　409 ÷ 2 =

2. 下面的算式算得对不对？对的在(　　)里打“√”，错的打“×”并改正。

```
    2 3          3 0 6          2     4          1 0 2
3 ) 6 9 0    2 ) 6 1 2      2 ) 4 0 9      4 ) 4 1 8
    6            6              4              4
    ---          ---            ---            ---
      9            1 2            9              8
      9            1 2            8              8
    ---          ---            ---            ---
      0              0            1              0
```

(　　)　　(　　)　　(　　)　　(　　)

正确的算式：

微信公众号：电子课本大全

3. 综合应用。

(1) 一卷 525cm 长的彩带能够剪出多少段长为 5cm 的彩带?

(2) 一只燕子 2 天共吃害虫 780 只。这只燕子平均每天吃害虫多少只?

(3) 你能分别算出各年级平均每班有图书多少本吗?

年级	班级数	图书的总本数	平均每班有图书的本数
二	4	640	
三	3	507	
四	4	768	
五	4	804	

B 级

小丁丁想了一个数,这个数乘 6 的得数在 628 和 640 之间。这个数可能是多少?

上海市中小学(幼儿园)课程改革委员会办公室
微信公众号:电子课本大全

19. 课本第42页

A级

1. 先估一估商是几位数，再列竖式计算。

268 ÷ 4 =　　196 ÷ 2 =　　358 ÷ 7 =

764 ÷ 9 =　　507 ÷ 5 =　　454 ÷ 6 =

206 ÷ 3 =　　930 ÷ 4 =　　500 ÷ 8 =

2. 列竖式计算，并验算。

385 ÷ 5 =　　460 ÷ 7 =

227 ÷ 3 =　　304 ÷ 9 =

上海市中小学（幼儿园）课程改革委员会办公室
微信公众号：电子课本大全

3. 综合应用。

(1) 上海到杭州的高速公路长 152 千米，一辆轿车从上海出发到杭州，在高速公路上行驶了 2 小时。这辆轿车平均每小时行驶多少千米？

(2) 8 支康乃馨扎成一束，326 支可以扎几束？还剩几支？

(3) 258 名学生站成 3 排，平均每排站多少人？

(4) 买 6 个同样的足球总共用去 276 元，一个足球的售价是多少元？

B 级

思考：下面的竖式计算中，商的十位可能是几？

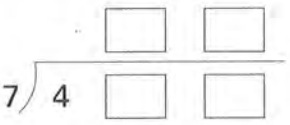

上海市中小学（幼儿园）课程改革委员会办公室
微信公众号：电子课本大全

A级

1. 先估一估商是几位数，再列竖式计算。

378÷2=　　519÷3=　　426÷4=

378÷6=　　519÷7=　　426÷5=

2. 按要求将下列算式分一分。

361÷3　252÷5　703÷7　907÷6

834÷6　480÷5　659÷8　631÷2　450÷8

余数为0	余数为1	余数为2	余数为3

上海市中小学（幼儿园）课程改革委员会办公室
微信公众号：电子课本大全

3. 看图列式计算。

(1) 篮球有？只



羽毛球有 255 只

算式：_____

答：_____

(2)



算式：_____

答：_____

4. 综合应用。

(1) 一只海狮的体重是 378 千克，是一只企鹅体重的 9 倍。这只企鹅的体重是多少千克？

(2) 奥林匹克火炬在某地 3 天共传递了 612 千米。平均每天传递多少千米？

B 级

思考：下面的竖式计算中，要使商的中间有 0，□里可以填几？

$$3\overline{)9\ \square\ 4}$$

上海市中小学（幼儿园）课程改革委员会办公室
微信公众号：电子课本大全

A级

综合应用。

1. 工人叔叔装配电风扇，每台电扇装3片扇叶，61片扇叶够装多少台电扇？

2. 一卷彩带长27米，用它来包扎同样大小的礼盒，每个礼盒都要用2米长的彩带。这卷彩带能够包扎多少个礼盒？

3. 小胖带着100元去买儿童读物，平均每本儿童读物需要7元。小胖最多可以买多少本儿童读物？还剩多少元？

4. 小巧班级有37名学生，每两人用一张课桌，需要多少张课桌？

B级

有34个同学去划船。每条大船可以坐6人，租金是15元；每条小船可以坐4人，租金是12元。如果你是队长，那么你认为怎样租船最省钱？

需要租大船_____条，租小船_____条。

上海市中小学（幼儿园）课程改革委员会办公室
微信公众号：电子课本大全

A 级

综合应用。

上海到宁波的列车票价分为三等：硬座、硬卧、软卧。

(1) 一张硬座票的售价为 54 元，买 5 张硬座票需要多少元？

(2) 420 元钱可以买 4 张硬卧票，平均每张硬卧票的售价为多少元？

(3) 一张软卧票的售价为 159 元，买 3 张这样的软卧票需要多少元？

(4) 小亚和爸爸妈妈周末从上海到宁波去旅游，买了 3 张硬座票。小亚给售票员两张 100 元，应找回多少元？

B 级

小胖去文具店买文具，不小心把购物发票弄脏了，你能帮他算出笔记本每本多少元吗？

物品名称	单价	数量	总价
笔记本	[illegible]	6 本	183 元
钢笔	75 元	1 支	

上海市中小学（幼儿园）课程改革委员会办公室
微信公众号：电子课本大全

A级

1. 在(　　)里填上适当的单位("米"或"千米")。



自行车
每分钟约行200(　　)



小轿车
每小时约行80(　　)



飞机
每小时约行1000(　　)



磁浮列车
每小时约行450(　　)

2. 填空。

(1) 3km = (　　)m　　5km = (　　)m

12km = (　　)m　　20km = (　　)m

(2) 2000m = (　　)km　　8000m = (　　)km

18000m = (　　)km　　50000m = (　　)km

上海市中小学（幼儿园）课程改革委员会办公室
微信公众号：电子课本大全

3. 比较大小，在◯中填入“＞”、“＜”或“＝”。

500m ◯ 5km　　70km ◯ 7000m

4km＋800m ◯ 4800m　　15000m－5000m ◯ 5km

B 级

小实践。

（1）同学们手拉手站成一排，需要几个人才能站成大约 10 米长？

（2）多少名同学手拉手站成一排，大约够 1000 米长？

上海市中小学（幼儿园）课程改革委员会办公室
微信公众号：电子课本大全

A级

1. 先估计下面的线段各长几厘米，再量一量，看估计得对不对。

(1)

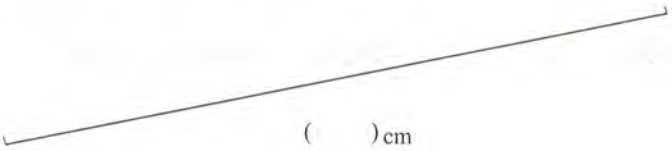

(　　)cm

(2)



(　　)cm

2. 在(　　)里填上适当的单位("米"或"厘米")。

(1) 短绳长140(　　)。

(2) 旗杆高15(　　)。

(3) 橡皮长4(　　)。

(4) 粉笔盒高8(　　)。

3. 比较大小，在◯中填入">"、"<"或"="。

650cm ◯ 65m　　32m ◯ 3200cm　　1m65cm ◯ 1650cm

B级

综合应用。

一根绳子长10米，剪去35厘米，还剩多少厘米？

上海市中小学（幼儿园）课程改革委员会办公室
微信公众号：电子课本大全

A 级

1. 在(　　)里填上适当的长度单位。



螺丝钉长约

2(　　)



沙发长约

2(　　)



硬币厚度约

2(　　)



遥控器长约

2(　　)

2. 先量出下列每个图形中各条边长是多少厘米，再说说用毫米作单位是多少毫米。



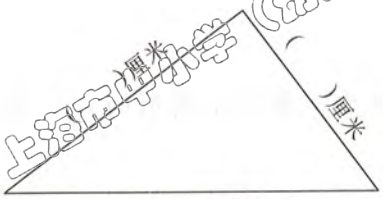

B 级

估一估、量一量、说一说。

	我的估计	我的测量
尺的厚度	约_____毫米	_____毫米
课桌的宽	约_____分米	_____分米_____厘米
文具盒的长	约_____厘米	_____厘米_____毫米

上海市中小学（幼儿园）课程改革委员会办公室
微信公众号：电子课本大全

1. 下面图形中，哪些是轴对称图形？哪些不是轴对称图形？是的在（　　）里打“√”，不是的打“×”。



（　　）



（　　）



（　　）



（　　）



（　　）



（　　）

2. 分别画出下面所给图形的另一半，使它成为轴对称图形。



B级

小实践。

剪一个自己喜欢的轴对称图形，给你的小伙伴欣赏。

上海市中小学（幼儿园）课程改革委员会办公室
微信公众号：电子课本大全

A级

1. 根据要求找图形。

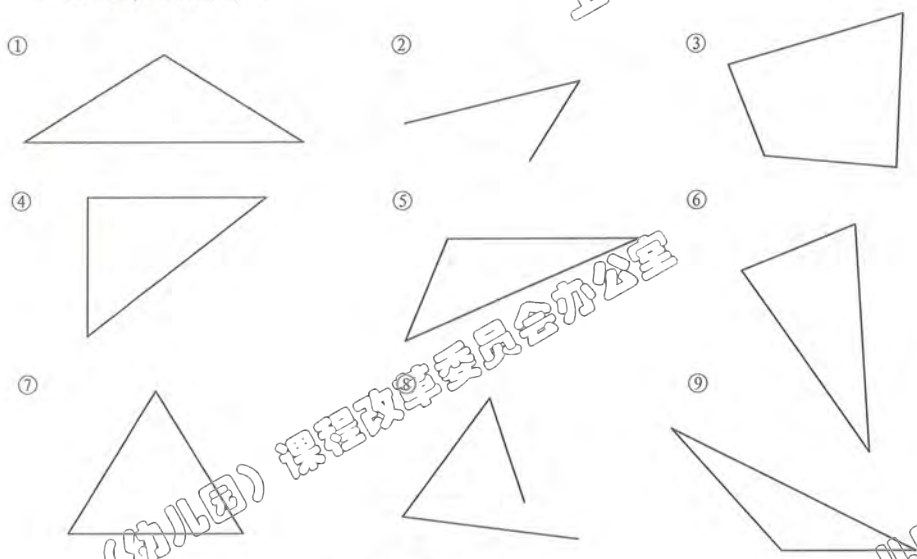

在横线上填入相应图形的序号。

(1) 三角形：_____。

(2) 直角三角形：_____，锐角三角形：_____，

钝角三角形：_____。

(3) 等腰三角形：_____，等边三角形：_____。

2. 填空。

(1) 三角形是由(　　)条线段围成的图形，它有(　　)条边，(　　)个角。

(2) 两条边相等的三角形叫做(　　)三角形。

(3) 三条边都相等的三角形叫做(　　)三角形，也叫做(　　)三角形。

3. 判断(对的打“√”，错的打“×”)。

(1) 三角形是轴对称图形。……(　　)

(2) 等腰三角形一定是锐角三角形。……(　　)

(3) 等边三角形的三条边都相等，三个角都相等。……(　　)

上海市中小学（幼儿园）课程改革委员会办公室
微信公众号：电子课本大全

4. 量出下列各个三角形的边长。

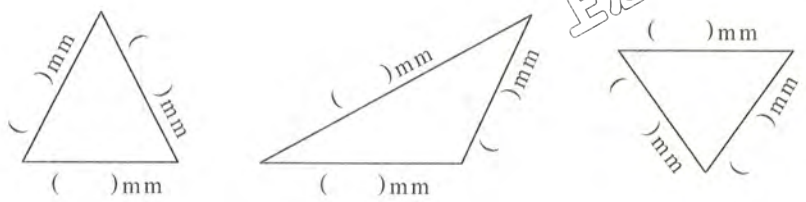

5. 分别画出下面两个三角形的对称轴。



等腰三角形　　等边三角形

B 级

数图形。

(1) 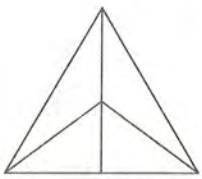

左图中有(　　)个三角形，

有(　　)个等腰三角形(把相等的腰分别表示出来)。

(2) 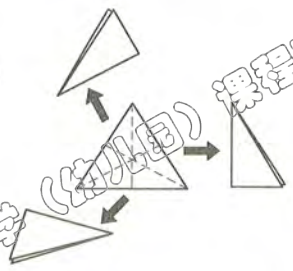

一个三角形如左图那样对折三次，每次对折后折线两边都能完全叠合在一起。这是一个(　　)三角形，有(　　)条对称轴。

上海市中小学(幼儿园)课程改革委员会办公室
微信公众号：电子课本大全

A 级

1. 下面两个图形 A 与 B 哪个大？

A

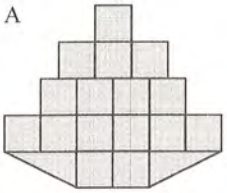

□格

B

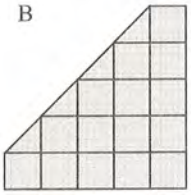

□格

比较：图 A ◯ 图 B

2. 下面各图形有多大？用方格数表示。

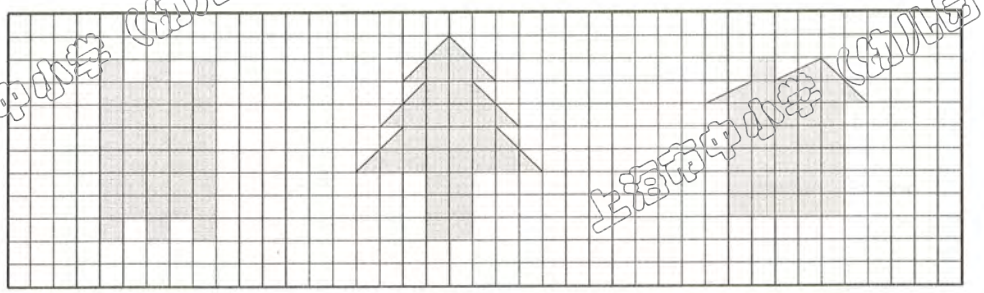

□格　□格　□格

B 级

小实践：请你来设计一个图形，它的面积大小恰好占 50 个小方格。

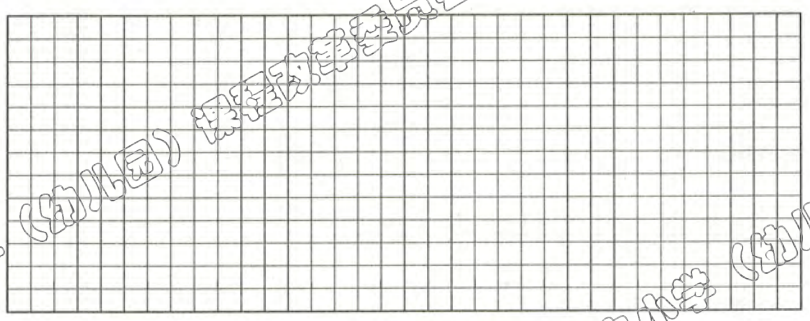

上海市中小学（幼儿园）课程改革委员会办公室
微信公众号：电子课本大全

A 级

画出下列图形并计算面积(每小格为 1cm²)。

① 长方形:长为 4 厘米,宽为 2 厘米。

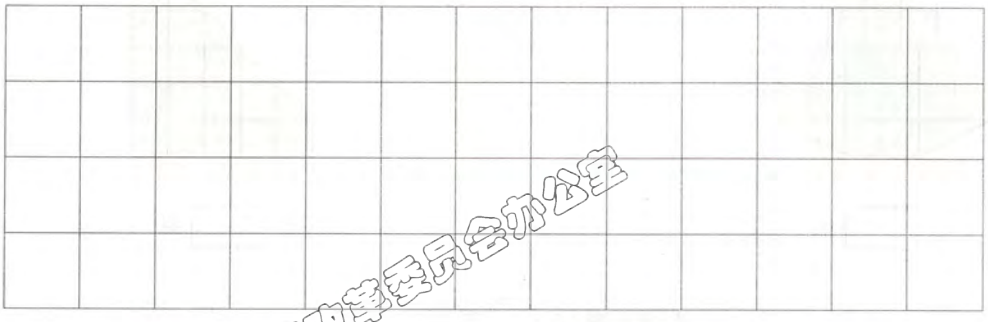

② 长方形:长为 8 厘米,宽为 1 厘米。

③ 正方形的边长为 5 厘米。

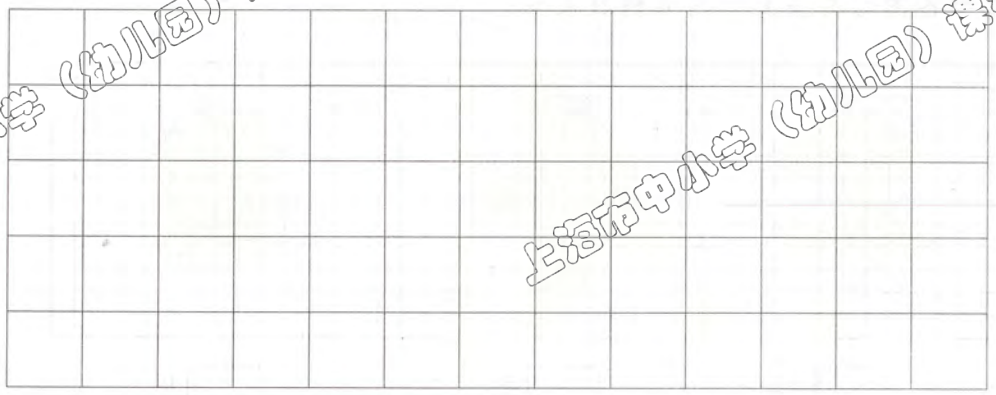

④ 正方形的边长为2厘米。

B 级

在下面的方格纸上(每小格为 1cm²)画两个面积为 12cm² 的长方形。你能画出多少个不同的长方形?

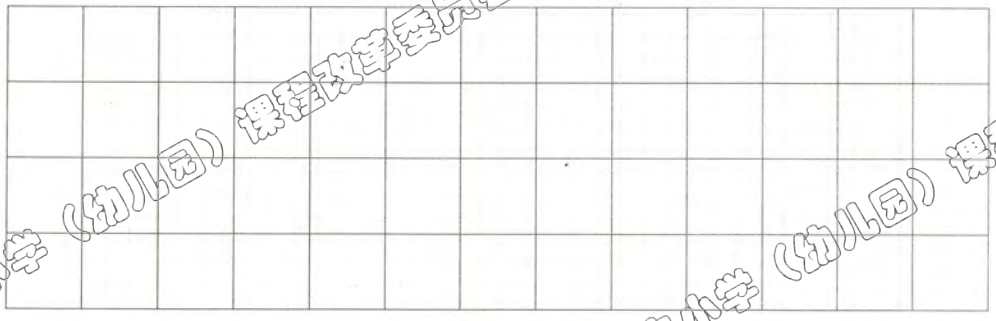

上海市中小学(幼儿园)课程改革委员会办公室
微信公众号:电子课本大全

A级

下列各图形的面积分别是几平方米？

①



②



③

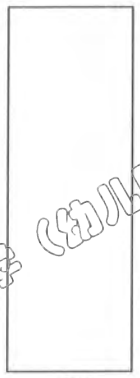

④



B级

一张长方形的纸板，长是8米，宽是5米，现在需要裁下一个最大的正方形，剩下纸板的面积是多少平方米？



上海市中小学（幼儿园）课程改革委员会办公室
微信公众号：电子课本大全

31. 课本第66～69页

1. 列竖式计算，打“*”号的要验算。

29×8=　　576÷3=　　241÷4=

6×172=　　*617÷5=　　832÷8=

304×9=　　*526÷5=　　492÷7=

7×830=　　903÷9=　　245÷6=

2. 计算。

804÷4+201　　5000−960÷2

390×5+1820　　607×8−856

上海市中小学（幼儿园）课程改革委员会办公室
微信公众号：电子课本大全

3. 先看一看从第一行的数怎样得到第二行的数，再把表格填完整。

3	8	11	84	120	351	809
15	40	55				

4. 比较大小，在◯中填入“>”、“<”或“=”。

27 ÷ 3 ◯ 72 ÷ 3　　160 ÷ 2 ◯ 106 ÷ 2　　350 ÷ 5 ◯ 450 ÷ 5

88 ÷ 2 ◯ 88 ÷ 4　　315 ÷ 7 ◯ 315 ÷ 9　　402 ÷ 3 ◯ 402 ÷ 2

72 ÷ 9 ◯ 64 ÷ 8　　630 ÷ 3 ◯ 990 ÷ 9　　567 ÷ 7 ◯ 656 ÷ 8

5. 综合应用。

（1）一盒胶卷能拍 36 张相片，5 盒胶卷大约能拍多少张相片？

（2）小亚一周共写了 196 个毛笔字，平均每天写多少个？

（3）实验小学 756 名学生分 6 批去参观科技馆，平均每批有多少名学生？

上海市中小学（幼儿园）课程改革委员会办公室
微信公众号：电子课本大全

综合应用。

(1) 牧场有奶牛 305 头，山羊的头数比奶牛的 3 倍多 88 头。山羊有多少头？

(2) 园林工人在一条公路旁栽树木，栽松树 56 棵，栽的柳树比松树的 4 倍少 30 棵。栽的柳树有多少棵？

(3) 在滑雪场里，女生有 152 名，男生的人数比女生的 2 倍少 16 个。男生有多少名？

(4) 一个计算器 32 元，一个电子辞典比 8 个计算器的价格还要贵 11 元。这个电子辞典是多少元？

上海市中小学（幼儿园）课程改革委员会办公室
微信公众号：电子课本大全

(5) 一张椅子12元，一张桌子的价钱是椅子的5倍。买这样一套桌椅需要多少元？

(6) 小淘气的体重是23千克，爸爸的体重正好是小淘气的3倍。小淘气比爸爸轻多少千克？

(7) 学校开展读书节的图标设计征选活动。低年级学生设计了205个，中高年级学生设计的个数是低年级学生设计的个数的2倍。全校学生一共设计了多少个图标？

(8) 星期六上午，小胖在家完成了家务并看了一本漫画书。他做家务花了20分钟，看漫画书的时间正好是做家务的4倍。小胖看漫画书比做家务多花了多少时间？

上海市中小学（幼儿园）课程改革委员会办公室
微信公众号：电子课本大全

1. 用递等式计算。

$25 \times 9 \times 4$　　$7 \times 106 + 348$　　$252 - 52 \div 4$

$488 \times 6 \div 8$　　$336 \div 8 \div 3$　　$25 \times (213 - 204)$

2. 综合应用。

(1) 三年级教师办公室里有 2 个书架，每个书架有 3 层，平均每层有 20 本书。书架上一共有多少本书？

(2) 水果店有香蕉 20 箱，橘子的箱数是香蕉的 2 倍，苹果的箱数是橘子的 3 倍。苹果有多少箱？

上海市中小学（幼儿园）课程改革委员会办公室
微信公众号：电子课本大全

(3) 图书室有740本课外读物，平均分给5个年级，三年级分到这些课外读物后再平均分给4个班级。三年级每个班级可以分到多少本课外读物？

(4) 将400块月饼装盒，每盒装8块，10盒装一箱。这些月饼一共可以装多少箱？

(5) 一块花布长27米，做1套衣服用3米。现在有9块这样的花布，最多能做多少套衣服？

(6) 同学们做了384朵花，每8朵花扎成一束。把这些花束平均送给6个班级，每个班级可以分到多少束花？

上海市中小学（幼儿园）课程改革委员会办公室
微信公众号：电子课本大全

A 级

1. 看图填图形的名称。

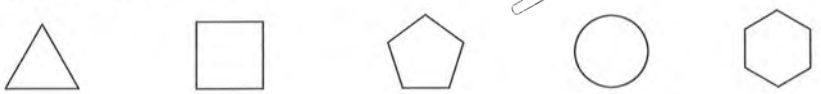

(　　)　(　　)　(　　)　(　　)　(　　)

2. 量一量，连一连。



锐角三角形　直角三角形　钝角三角形　等腰三角形　等边三角形



B 级

1. 数一数。



三角形有(　　)个

长方形有(　　)个

圆有(　　)个

微信公众号：电子课本大全

2. 一张正六边形的纸，任意剪一刀，还剩多少个角？

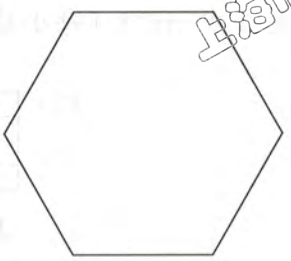

3. 按照给出的图案继续画下去，并涂上颜色。

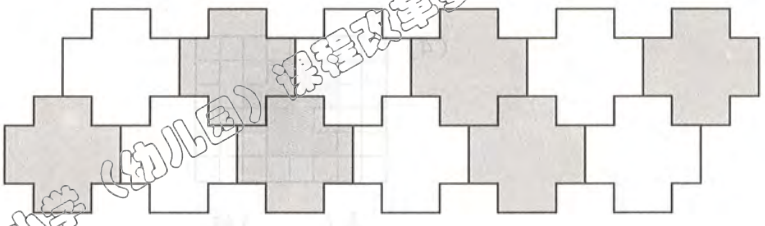

4. 小实践：请设计一种你喜爱的地砖图形。

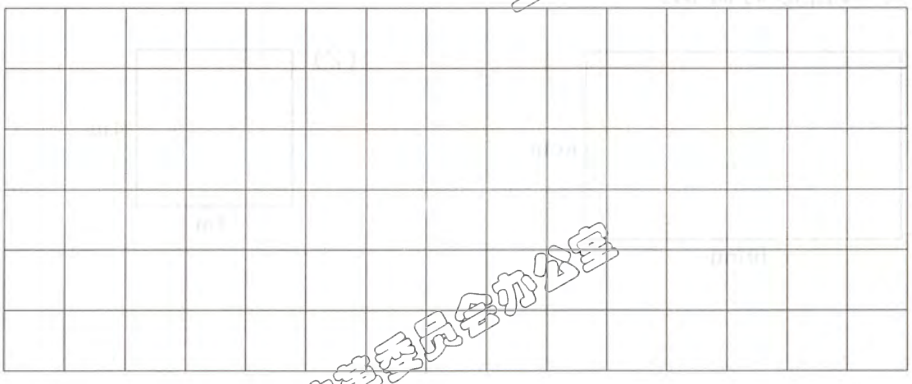

上海市中小学（幼儿园）课程改革委员会办公室
微信公众号：电子课本大全

A级

1. 下面的图形占几格？面积是多少 cm^2？（每小格为 $1cm^2$）

(1)

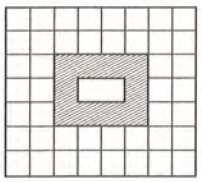

占(　　)格

面积是(　　)cm^2

(2)

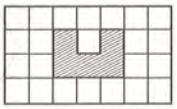

占(　　)格

面积是(　　)cm^2

(3)



占(　　)格

面积是(　　)cm^2

(4)

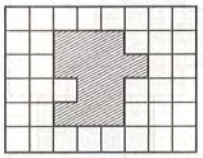

占(　　)格

面积是(　　)cm^2

2. 计算下面图形的面积。

(1)



(2)

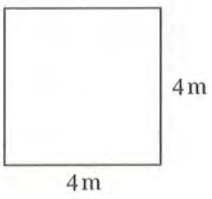

B级

计算下面图形的面积。

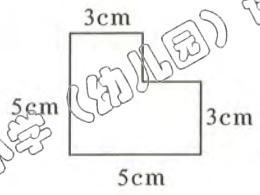

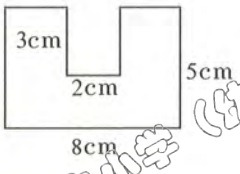

上海市中小学（幼儿园）课程改革委员会办公室
微信公众号：电子课本大全

A 级

下面给出了小亚家一些房间的尺寸。算一算，它们的面积各是多少平方米？

(1) 小亚的房间，长 5 米，宽 3 米。

(2) 客厅，长 6 米，宽 5 米。

(3) 储藏室，边长为 2 米。

(4) 父母的卧室，长 6 米，宽 4 米。

B 级

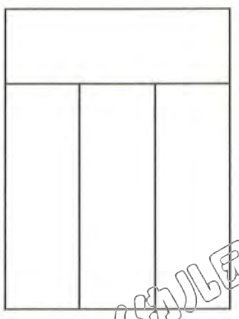

左图是由 4 个相同的长方形拼成的。已知小长方形的宽是 2 厘米，求大长方形的面积。

上海市中小学（幼儿园）课程改革委员会办公室
微信公众号：电子课本大全

A级

1. 填空。

85－64＝(　　)　　62－46＝(　　)　　(　　)－12＝8

240－80＝(　　)　　110－59＝(　　)　　(　　)－250＝42

274－74＝(　　)　　200－145＝(　　)　　500－(　　)＝175

2. 用数卡 1 、 3 、 5 摆一摆、算一算。

(1) 摆出所有的三位数，并从小到大依次排列。

(2) 其中最大的三位数与最小的三位数的差是多少？

B级

从数卡 0 、 1 、 2 、 3 、 4 、 5 、 6 、 7 、 8 、 9 中选出6张，将它们摆成2个三位数。

(1) 求摆出的2个三位数的差。

(2) 谁能得到最大的差？请写出算式。

*(3) 谁能得到最小的差？请写出算式。

上海市中小学（幼儿园）课程改革委员会办公室
微信公众号：电子课本大全

A级

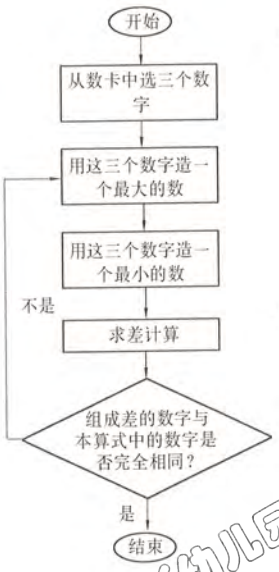

1. 用数卡 2 、6 、8 来做减法塔。

2. 用数卡 7 、3 、6 来做减法塔。

B级

用数卡 6 、7 、8 来做减法塔。

上海市中小学（幼儿园）课程改革委员会办公室

微信公众号：电子课本大全

上海市中小学（幼儿园）课程改革委员会办公室



微信公众号：电子课本大全

上海市中小学（幼儿园）课程改革委员会办公室
上海市中小学（幼儿园）课程改革委员会办公室
上海市中小学（幼儿园）课程改革委员会办公室
上海市中小学（幼儿园）课程改革委员会办公室
上海市中小学（幼儿园）课程改革委员会办公室
上海市中小学（幼儿园）课程改革委员会办公室
微信公众号：电子课本大全

经上海市中小学教材审查委员会审查
准予试用　　准用号Ⅱ-XB-2010003

责任编辑　蒋徐巍

上海市中小学（幼儿园）课程改革委员会办公室

微信公众号：电子课本大全