教育部审定
2012

义务教育教科书

数学

一年级　上册



江苏教育出版社

微信公众号：电子课本大全

目　录



一　数一数 …… 2

二　比一比 …… 4

三　分一分 …… 8

四　认位置 …… 10

五　认识 10 以内的数 …… 12

六　认识图形(一) …… 30

有趣的拼搭 …… 32



微信公众号：电子课本大全

七　分与合 …… 34

八　10 以内的加法和减法 …… 44

丰收的果园 …… 80





九　认识 11~20 各数 …… 82

十　20 以内的进位加法 …… 88

十一　期末复习 …… 102

微信公众号：电子课本大全

数一数



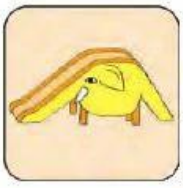





微信公众号：电子课本大全















微信公众号：电子课本大全

比一比









微信公众号：电子课本大全

高的画“✓”。





重的画“✓”。



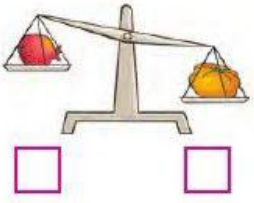

你还能在图中找一找、比一比吗？

想想做做

1.



你能和同学比一比铅笔的长短吗？

微信公众号：电子课本大全

2. 近的路画“✓”。

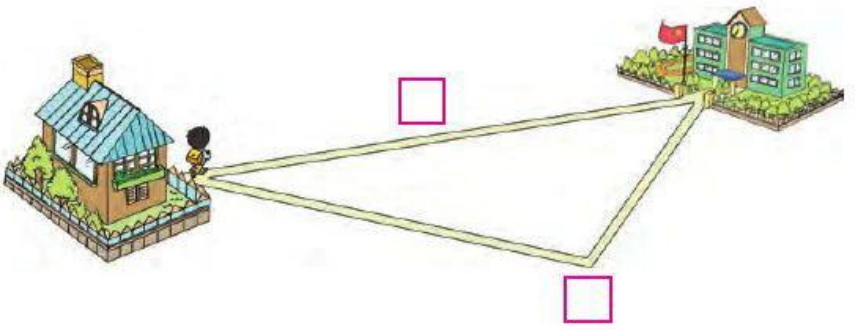

3. 最长的画“✓”，最短的画“○”。

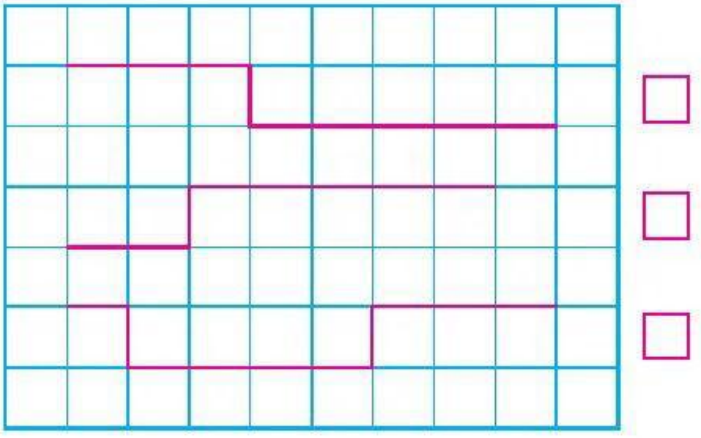

4.









微信公众号：电子课本大全

5. 杯里水最多的画“✓”，最少的画“○”。



□ □ □

6. 重的画“✓”。



□ □ □ □

7. 找几个同学，从高到矮排排队。



最重的画“✓”，最轻的画“○”。

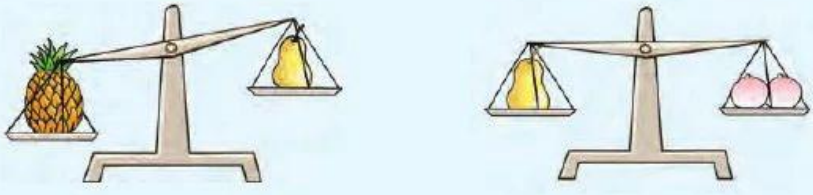

□ □ □

微信公众号：电子课本大全

三 分一分



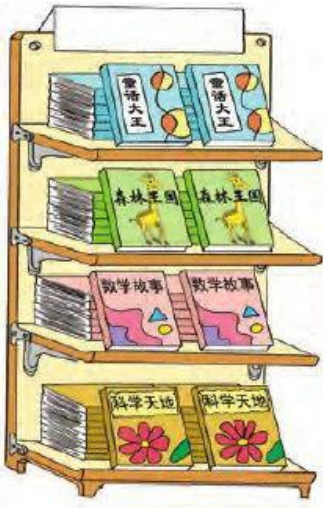

上面的物品是怎样摆放的？

试一试

把树叶分在3个筐里，用线连一连。



你是怎样分的？互相说一说。

微信公众号：电子课本大全

想想做做

1. 圈出能在水中生活的动物。



2. 空中飞的涂蓝色，陆地行的涂绿色，水中行的涂红色。

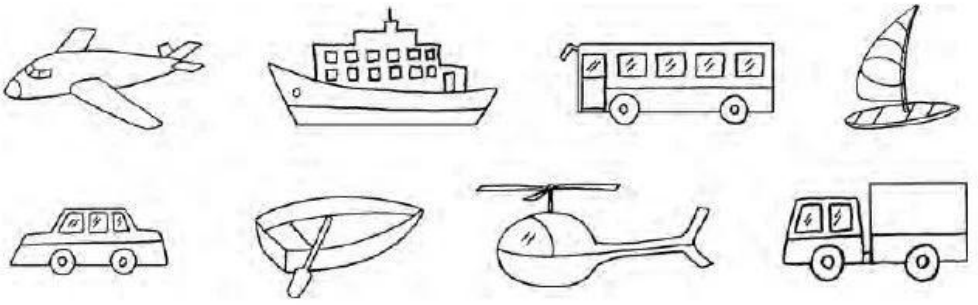

3. 先分一分，再说说是怎样分的。



4. 整理自己的书包，和同学说说你的做法。

微信公众号：电子课本大全

四 认位置





 在  的左面。  在  的右面。

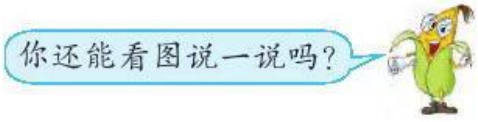

想想做做

1. 做游戏。

左手握拳头，右手握拳头；
左边拍拍手，右边拍拍手；
左手摸右耳，右手摸左耳。



2. 说说你座位的前、后、左、右各是谁。

微信公众号：电子课本大全

3.











4. 把 左边的花涂红色，右边的花涂黄色。



5. 把 摆在课桌的中间，把 摆在 的右面，把 摆在 的左面，把 摆在 的上面。



微信公众号：电子课本大全

五 认识 10 以内的数

1




1 1 1 1


2 2 2 2


3 3 3 3


4 4 4 4


5 5 5 5


1 还可以表示什么？2、3、4、5 呢？

微信公众号：电子课本大全

想想做做

1.



2　　3　　4　　5

2. 看数涂色。

2	3	4
●●○○○	○○○○○	○○○○○

3.

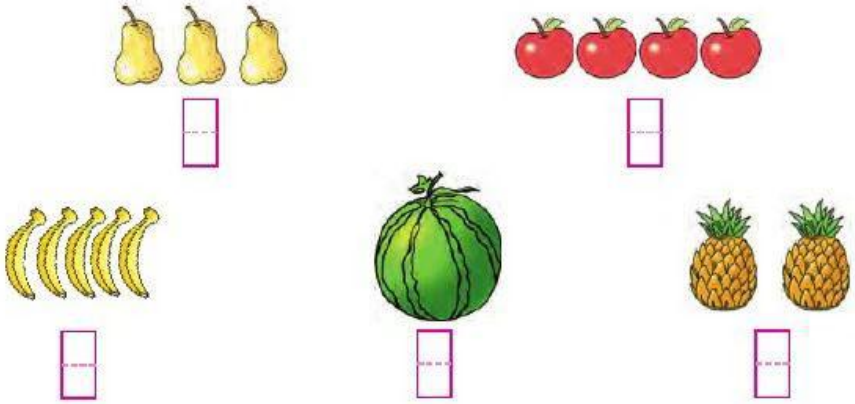

4. 数一数，写一写。



微信公众号：电子课本大全

5. 读一读，排一排。



6. 补画出缺少的花。



7. 把星分成两堆，可以怎样分？



8.



9.

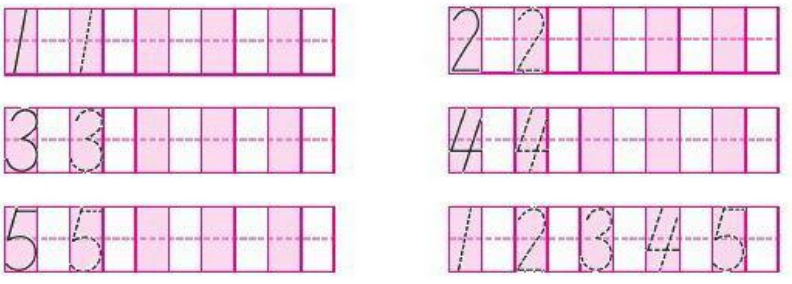

微信公众号：电子课本大全

2



5 人排队买票，  排在第 2。



想想做做

1. 从左边起涂色。

涂 4 个 

涂第 4 个 

2.



 住在第□层。



有□只猴。  是第□只。

微信公众号：电子课本大全

3.

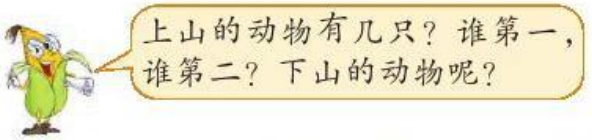





4.

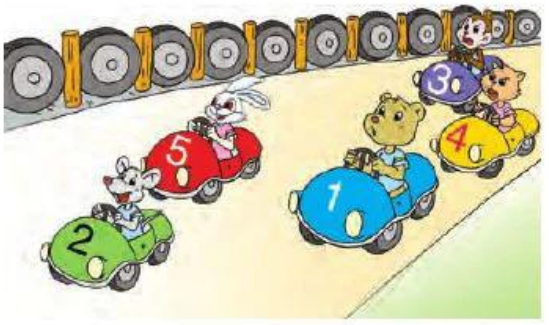

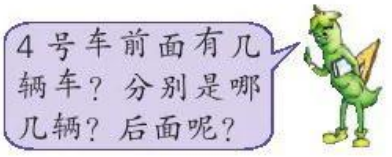

你还能说出什么？

你知道吗



第 1 名是冠军，获金牌；第 2 名是亚军，获银牌；第 3 名是季军，获铜牌。

微信公众号：电子课本大全

3



3 2 1 0

试一试



4 _

4





0 0 0 0 0

微信公众号：电子课本大全

想想做做

1.

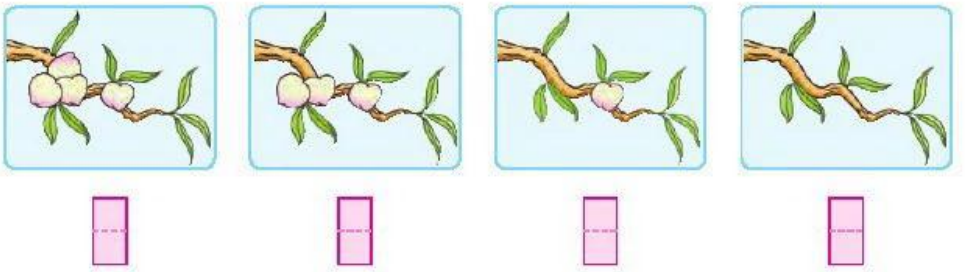

2.

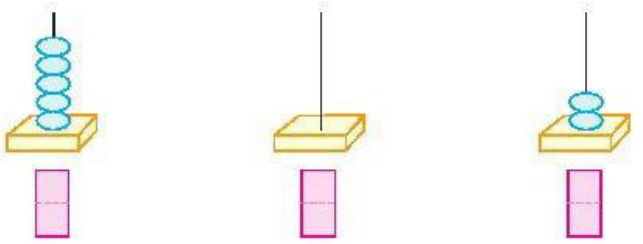

3. 0 1 2 3 4 5 6 7 8 9 10

4. 你在哪儿见到过 0？







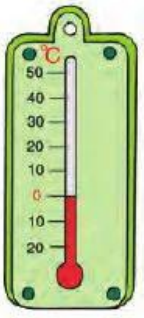





微信公众号：电子课本大全

5





小猴有 4 只，
小兔有 4 只。

哪队小动物多？



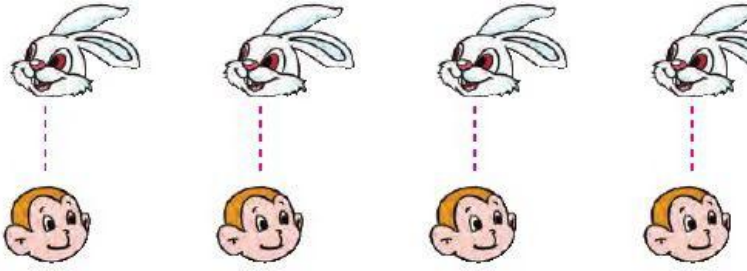



4 = 4　读作：4 等于 4。

等号



微信公众号：电子课本大全

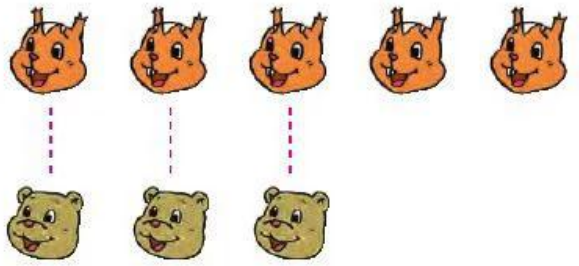



5 > 3

大于号

读作：5 大于 3。

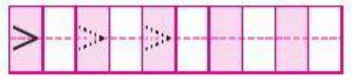



3 < 5

小于号

读作：3 小于 5。



想想做做

1. 摆一摆，填一填。

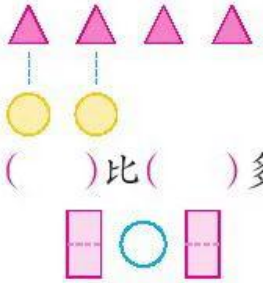

（　　）比（　　）多

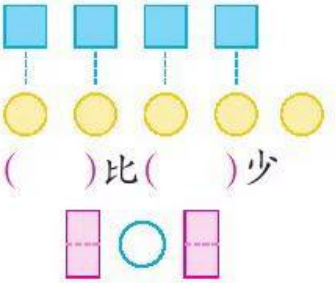

（　　）比（　　）少

2.

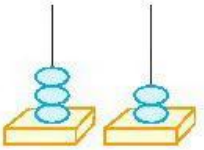

3 ○ 2

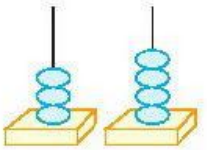

3 ○ 4

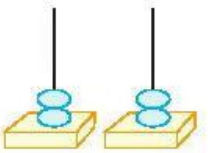

2 ○ 2

3. 在 ○ 里填“>”“<”或“=”。

5 ○ 2　　3 ○ 3　　2 ○ 3　　4 ○ 3

微信公众号：电子课本大全

练习一

1. 树上各有几只鸟？



2. 接着画，都画满 5 个。

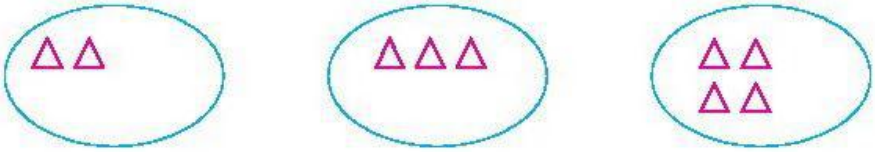

3. 填一填，读一读。



4. 按要求画 □。



□ 和 ○ 同样多　　□ 比 ○ 多

5.

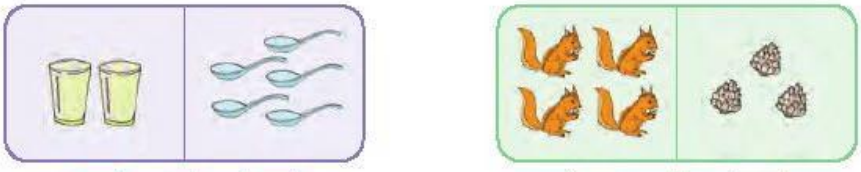

微信公众号：电子课本大全

6. 2 5 1 3 4

(1) 一共有(　　)张卡片。

(2) 左起第 2 张是(　　)，右起第 2 张是(　　)。

(3) 按从大到小的顺序排一排。

5 □ □ □ □

7. 4 > □　　2 < □　　5 = □　　1 < □

8.



□ ○ □　　□ ○ □　　□ ○ □

9.

0 0　　2 2

3 3　　5 5



哪块草地最大？在□里画“✓”。



□　　□　　□

微信公众号：电子课本大全

6



图里有些什么？数一数，说一说。

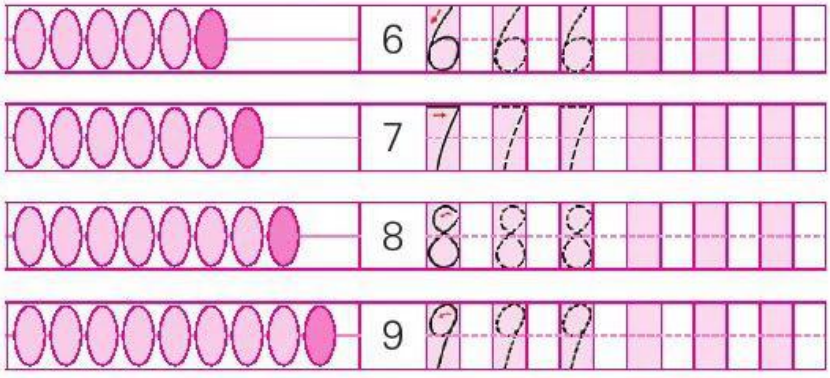



想想做做

1. 看数涂色。

6	7	8	9
○○○○○ ○○○○○	○○○○○ ○○○○○	○○○○○ ○○○○○	○○○○○ ○○○○○

微信公众号：电子课本大全

2. 看数接着画。

7　　8　　9

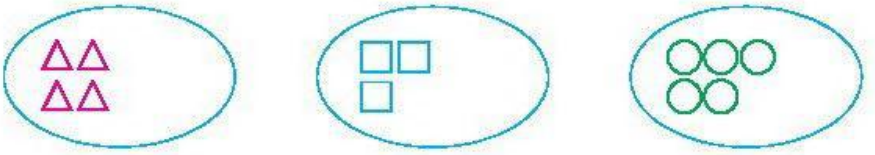

3. 看着直尺说一说，5 离 8 近一些还是离 1 近一些。

4. 圈起左边 6 朵，再把右起第 7 朵涂上红色。



5.



（1）一共有（　　）个水果。

（2）  是第 2 个，  是第（　　）个，  是第（　　）个。

（3）  后面有（　　）个水果，  前面有（　　）个水果。

6.





微信公众号：电子课本大全

7. 在 ◯ 里填“>”或“<”。

6 ◯ 8　　9 ◯ 7　　7 ◯ 6　　8 ◯ 9

8.

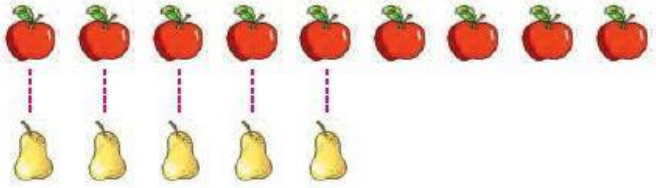

比 多（　）个，比 少（　）个。

9.



10. 9 > □　　6 < □　　8 = □　　7 < □

11.

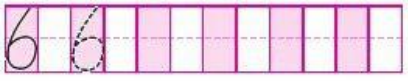



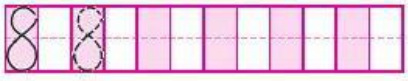

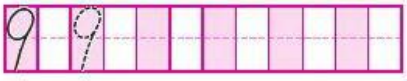

你知道吗

可以用下面的手势表示 1，2，…，9。



微信公众号：电子课本大全





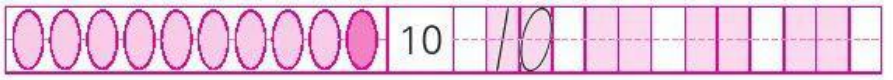

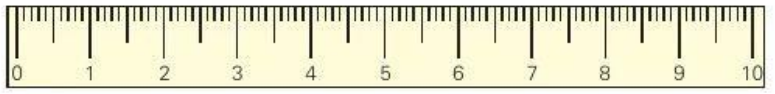

想想做做

1. 数出 10 根小棒，捆成 1 捆。



2.





3. 填一填，读一读。

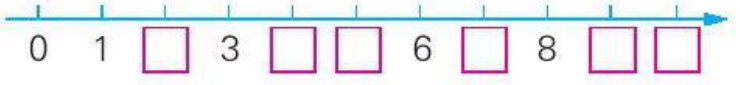

微信公众号：电子课本大全

4.



第 2 张是 8，第 5 张是(　　)，第 10 张是(　　)。

5. 先从 0 写到 10，再从大到小读一读。



6.



一共有(　　)只小鸭。

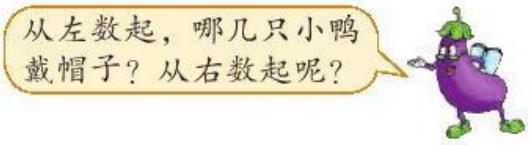

7. 在○里填“>”“<”或“=”。

10 ○ 9　　1 ○ 10　　7 ○ 6

6 ○ 6　　8 ○ 5　　7 ○ 9

8.



(　　)根　　(　　)根　　(　　)根

9.

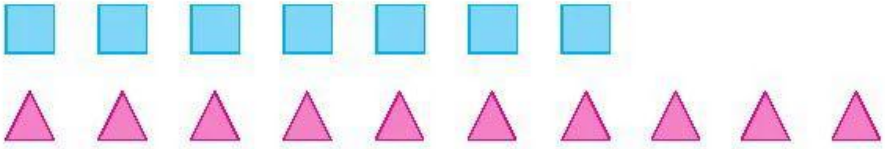

□比△少(　　)个，△比□多(　　)个。

微信公众号：电子课本大全



练习二

1.



你会用学过的数说一句话吗？

一年级有 4 个班。





我家有 3 口人。

2.



一共（　　）双，有（　　）根。



一共（　　）盘，有（　　）个。



一共（　　）盒，有（　　）块。

3.



一共有（　　）个  。给正中间一个  涂红色，它的左右两边各有（　　）个  。

4.



（1）第 1 盆有 3 朵花，第 3 盆有（　　）朵花。

（2）有 4 朵花的是第（　　）盆，它左边的一盆是第（　　）盆，有（　　）朵花。

微信公众号：电子课本大全

5. 填一填，读一读。

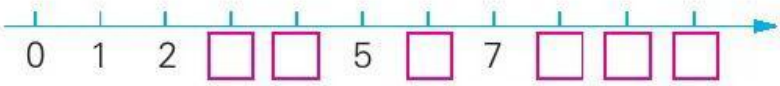

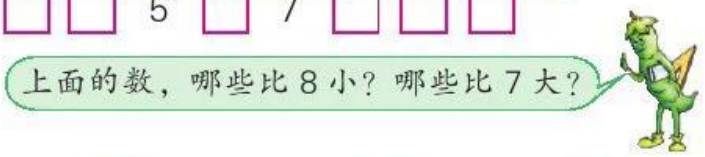

6. □ > 3　　6 > □　　9 < □　　□ < 10

7.



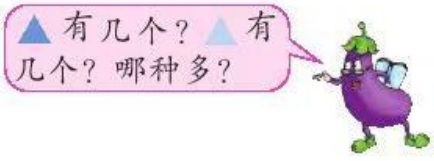

8.



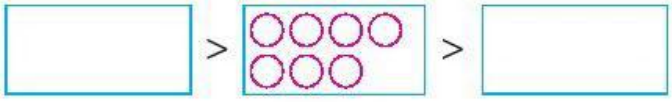

9. 接着涂一涂，填一填。

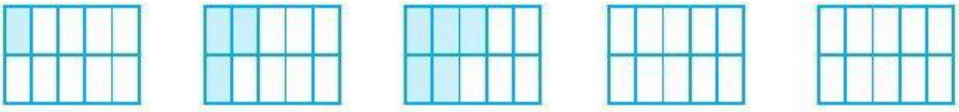

1 格　　3 格　　5 格　　(　　)格　　(　　)格

10.

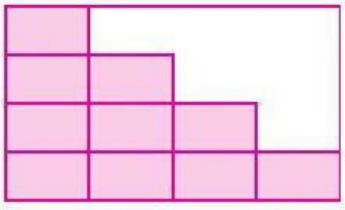

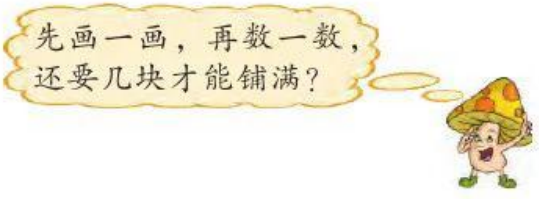



照下图这样，把 8 根短绳连在一起，要打(　　)个结。



微信公众号：电子课本大全

六 认识图形（一）



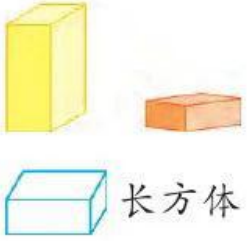

长方体

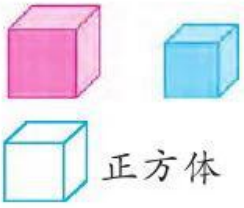

正方体



圆柱

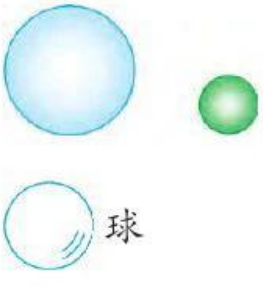

球

微信公众号：电子课本大全

想想做做

1.

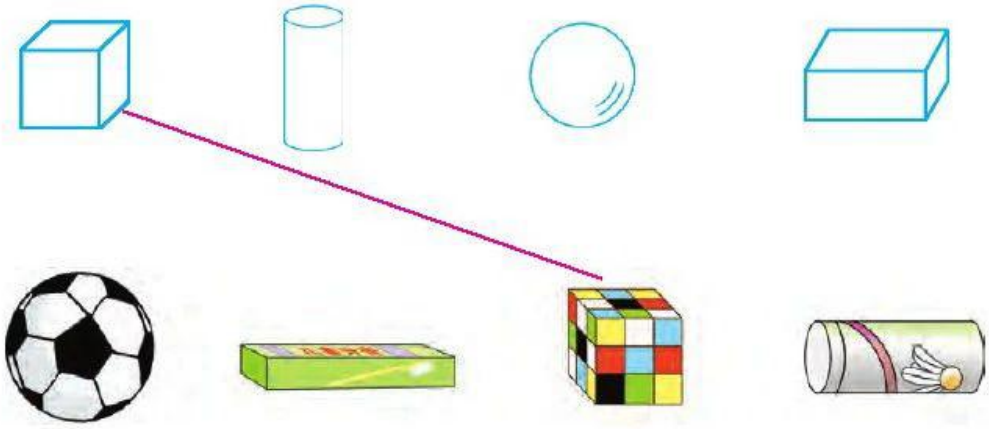

2.

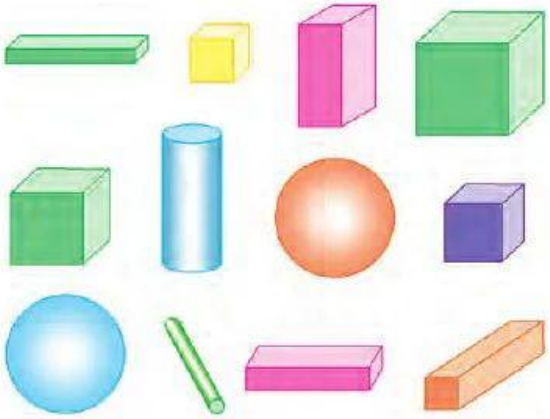

	(　　)个
	(　　)个
	(　　)个
	(　　)个

3.



(1) 从左数起，第(　　)个是  ，第(　　)个和第(　　)个是  。

(2) 说一说  左边的一个是什么，右边的一个是什么。

微信公众号：电子课本大全



有趣的拼搭

滚一滚



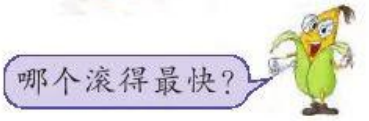

堆一堆





微信公众号：电子课本大全

摸一摸





搭一搭



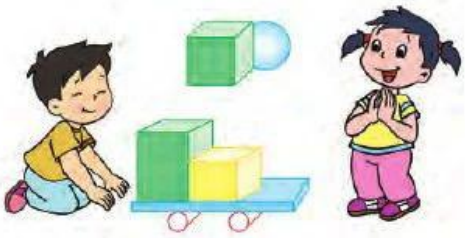



数一数

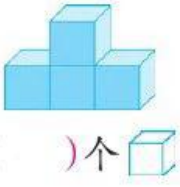

（　　）个

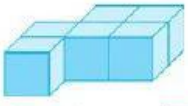

（　　）个

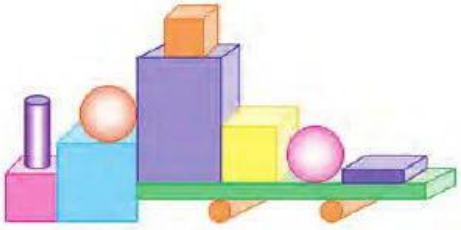

（　　）个　　（　　）个

（　　）个　　（　　）个

微信公众号：电子课本大全

七 分与合

1



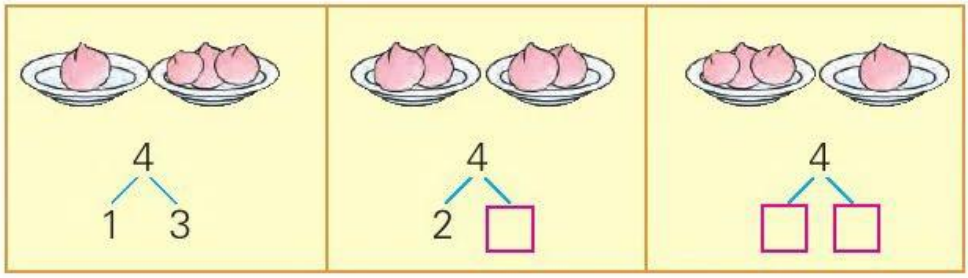

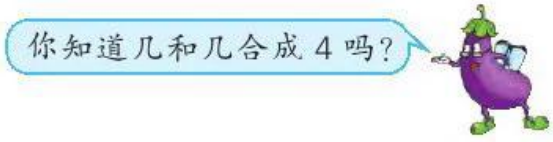

试一试

5 可以分成几和几？几和几合成 5？





5
1 4

5
4 1

5

5

微信公众号：电子课本大全

想想做做

1. 摆一摆，填一填。

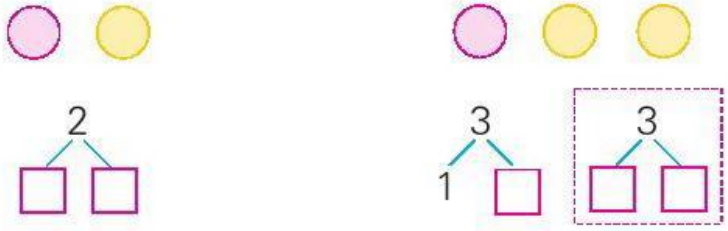

2.



3.



4. 照样子接着画。

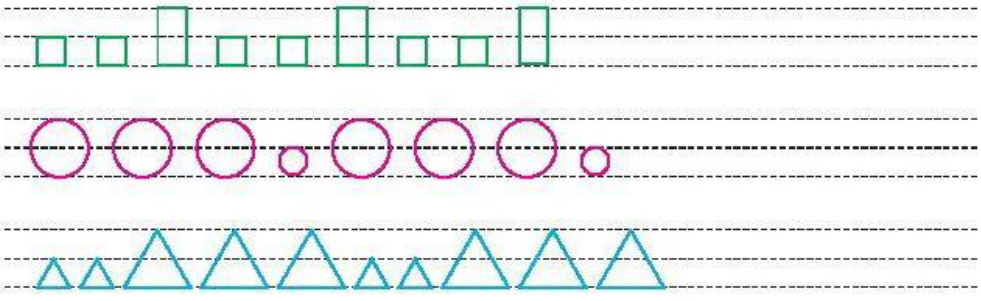

5.

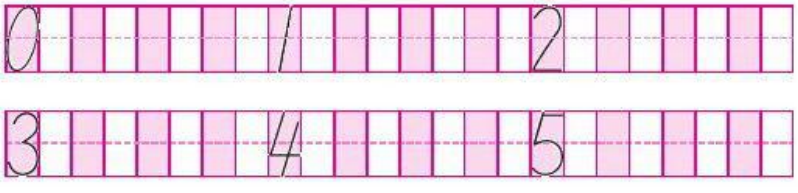

微信公众号：电子课本大全

2

两只手拿 6 个气球，可以怎样拿？



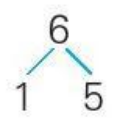

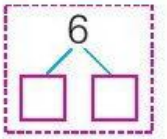



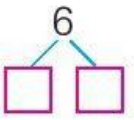

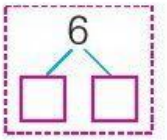



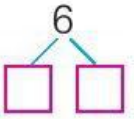

试一试

把 7 个 ● 分成两堆，有几种分法？先分一分，再填一填。



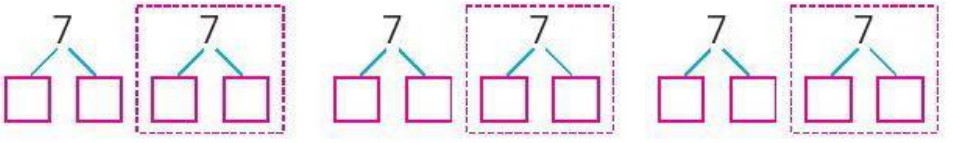

微信公众号：电子课本大全

想想做做

1. 哪两张卡片上的点数合起来是 6?



2. 哪两个数合起来是 7?

4　5　3　6　1　2

3.









4.



5.



从上往下数，每层各有几根？

哪两层合起来是 6 根？

哪两层合起来是 7 根？

木头是怎样堆放的？

微信公众号：电子课本大全

练习三

1. 把 放在 2 个盘里，可以怎样放？



2.

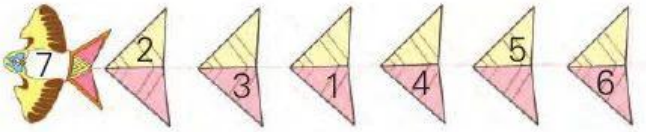

3.

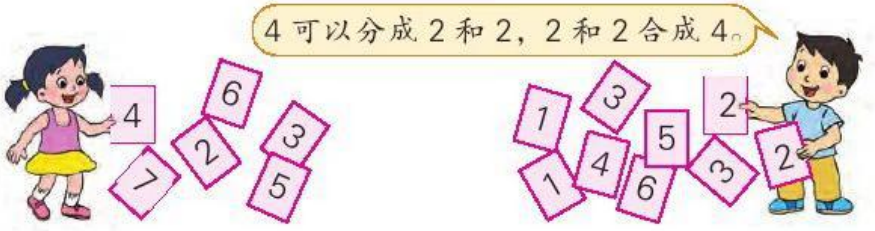

4.

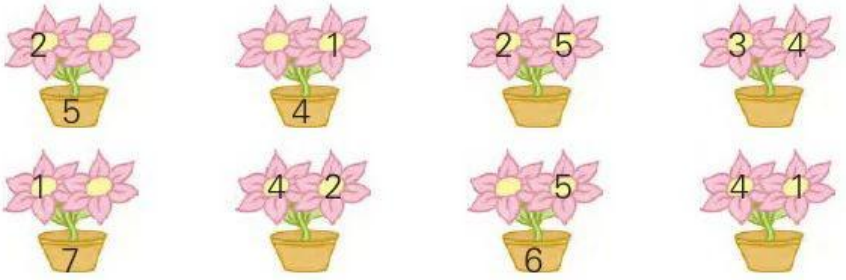

5.

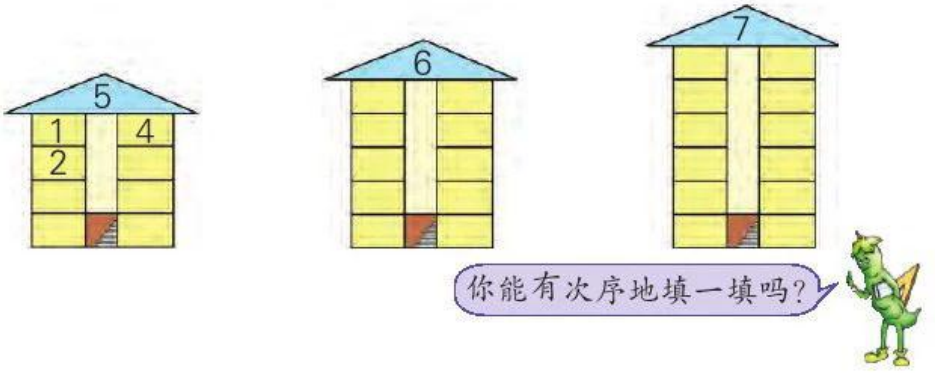

微信公众号：电子课本大全

3 8可以分成几和几？用●分一分。

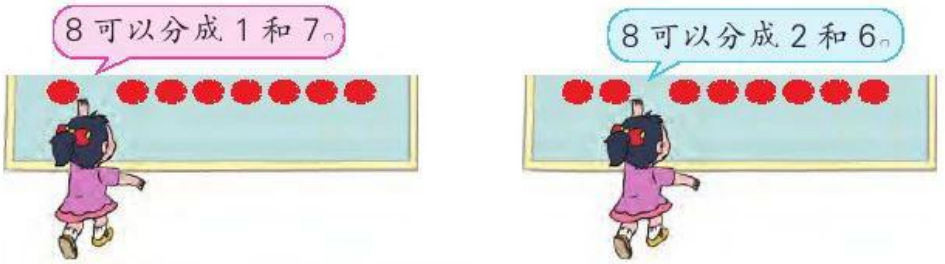

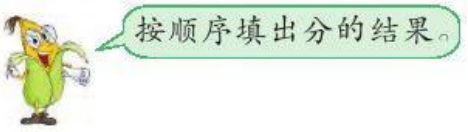



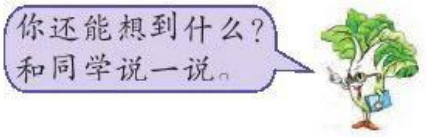

想想做做

1. 哪两张卡片上的点数合起来是8？



2.



一共有几层？每层各有几块  ？

哪两层的块数合起来是8？

3.

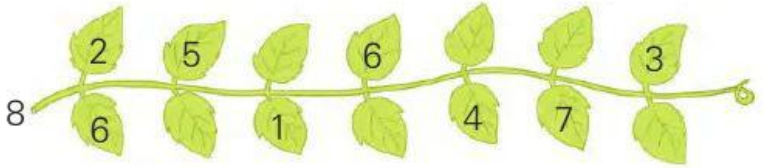

微信公众号：电子课本大全

4. 先把 9 根 | 有次序地分成两堆，再填一填。

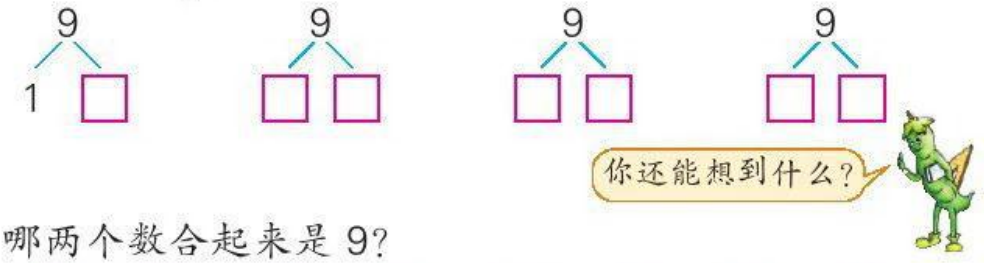

5. 哪两个数合起来是 9？



6.

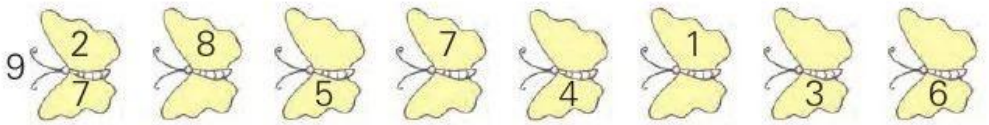

7.



8.

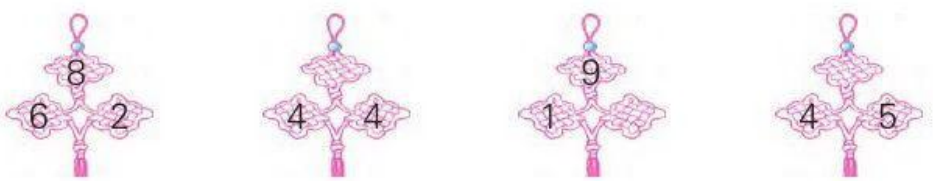

9. 你能有次序地填一填吗？

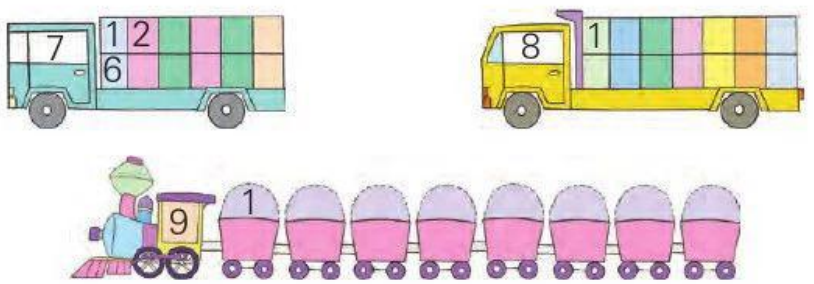

微信公众号：电子课本大全

4

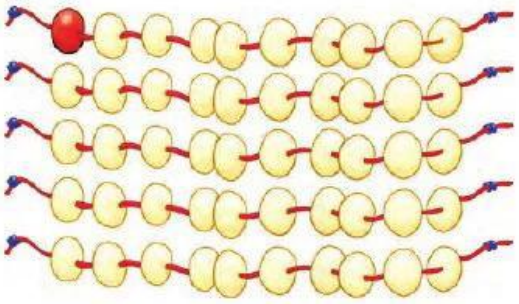



10　10　10　10　10

□□　□□　□□　□□　□□



想想做做

1.



1　5　6　3　9　8　4　2　7　5

2.

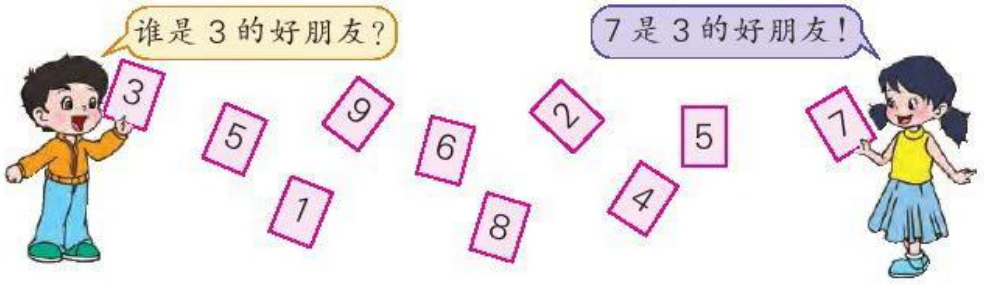

3.

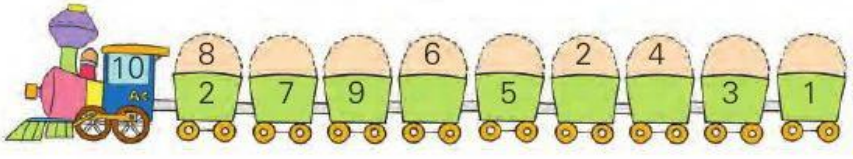

微信公众号：电子课本大全



练习四

1. 把 放在 2 个盘里，可以怎样放？



2.



3.

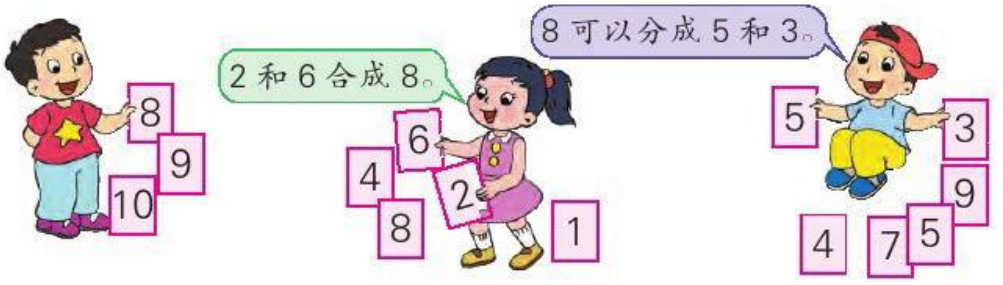

4.



微信公众号：电子课本大全

5. 哪两只  可以住在一起？



6. 9 个桃放在 3 个盘里，每盘个数各不相同。





7.

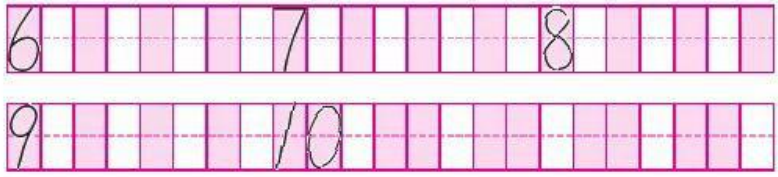



你能在□里填上合适的数吗？



微信公众号：电子课本大全

八 10以内的加法和减法

1





$3 + 2 = 5$

加号

读作：3加2等于5。

试一试



$1 + 2 = \square$

微信公众号：电子课本大全

想想做做

1.





3 + 1 = □　　□ + □ = □

2. 先画一画，再填得数。

2 + 1 = □　　4 + 1 = □　　1 + 4 = □

○○ ○

3. 想一想，填一填。

1 + 1 = □　　2 + 3 = □　　1 + 3 = □

4.







2 + 1 = □　　□ + 1 = □　　□ + □ = □

5.

2 + 1　　2 + 2　　1 + 3　　3 + 2

1 + 2　　1 + 4

3 + 1　　2 + 3



6.

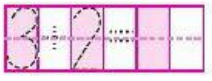

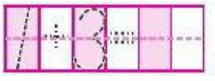

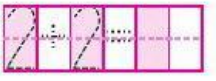

微信公众号：电子课本大全

2





一共 5 人，走了 2 人，还有 3 人。

$5 - 2 = 3$

减号

读作：5 减 2 等于 3。

试一试

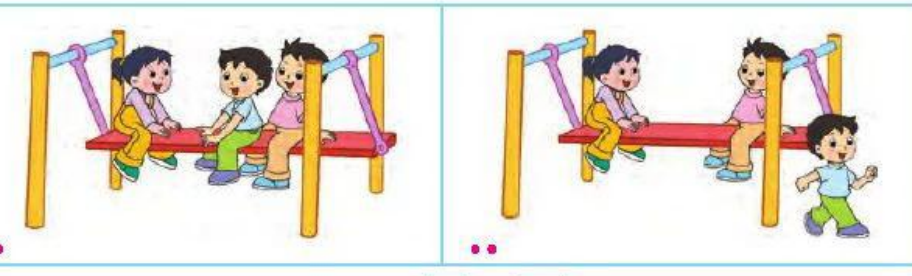

$3 - \square = \square$

微信公众号：电子课本大全

想想做做

1.





5 − 1 = □　　□ − 2 = □

2. 先画线，再填得数。

4 − 3 = □　　5 − 3 = □　　5 − 4 = □



3. 想一想，填一填。

2 − 1 = □　　3 − 2 = □　　4 − 1 = □

4. 说一说，填一填。



5 − 1 = □　　5 − □ = □　　□ − □ = □

5.

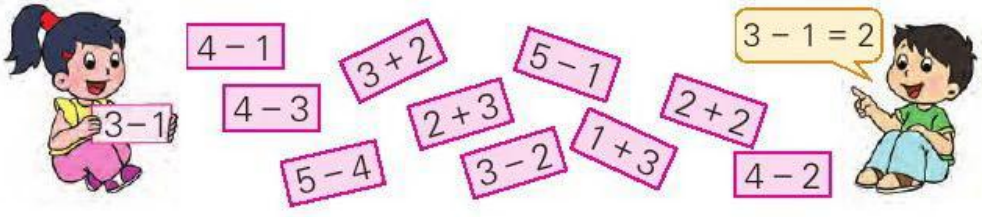

6.

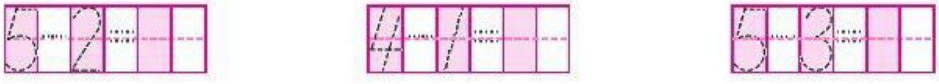

微信公众号：电子课本大全

3







$3 - 3 = 0$

4



$5 + 0 = 5$

试一试

$0 + 3 = \square$　　$3 - 0 = \square$

想想做做

1.



$0 + \square = \square$



$\square - \square = \square$

微信公众号：电子课本大全

2. $2+0=\square$　　$1-0=\square$　　$1-1=\square$

$4-0=\square$　　$2-2=\square$　　$0+1=\square$

3.

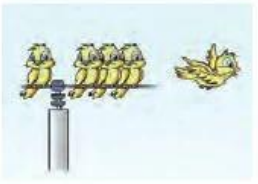





$5-\square=\square$　　$\square-\square=\square$　　$\square-\square=\square$

4. 算一算，比一比。

$4+0=\square$	$2+0=\square$	$3+0=\square$
$0+4=\square$	$0+2=\square$	$0+3=\square$
$4-0=\square$	$2-0=\square$	$3-0=\square$
$4-4=\square$	$2-2=\square$	$3-3=\square$

5.

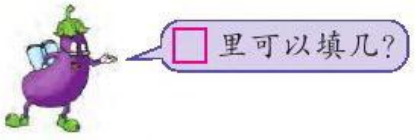

$\square-\square=0$　　$0+\square=\square$　　$\square-0=\square$

6.

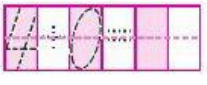

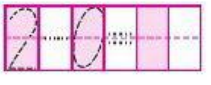

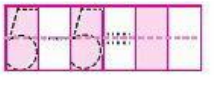

微信公众号：电子课本大全

练 习 五

1.



4 + □ = □



□ + □ = □



4 − □ = □

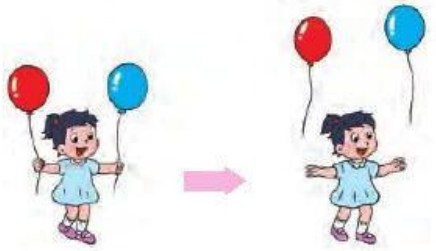

□ − □ = □

2.

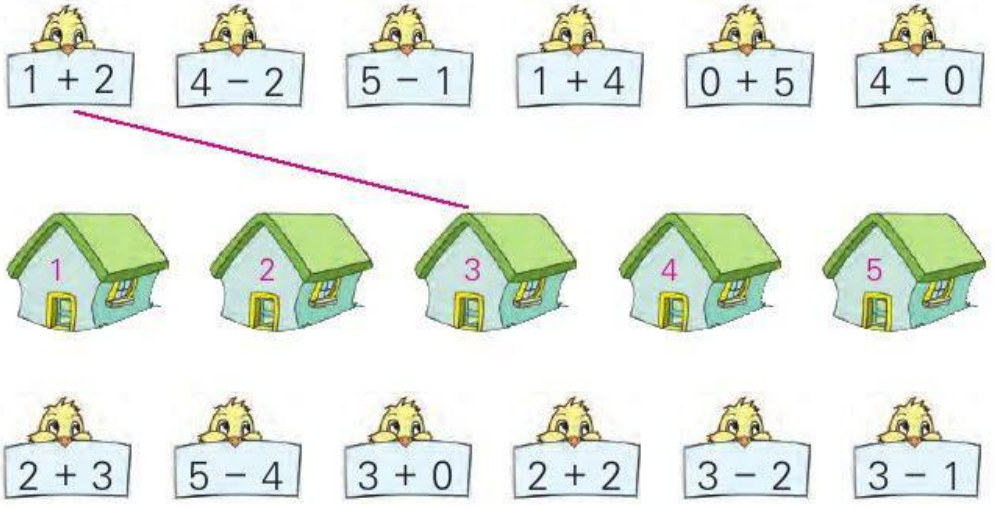

3.

5 + 0 = □
5 − 0 = □

4 − 1 = □
4 + 1 = □

3 + 1 = □
1 + 3 = □

微信公众号：电子课本大全

4. 你能说出几道算式？



□ + □ = □



□ − □ = □

5. 5 = □ + □　　5 = □ + □　　5 = □ + □

6. 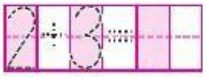 　 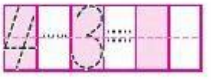 　 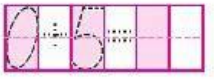



△ + △ = 4

○ − △ = 3

△ = (　　)　○ = (　　)

微信公众号：电子课本大全

5







$5 + 1 = 6$

$1 + 5 = 6$

试一试



$4 + 3 = \square$

$3 + \square = \square$

想想做做

1. 摆一摆，填一填。



$4 + 2 = \square$

$2 + 4 = \square$



$\square + \square = \square$

$\square + \square = \square$

微信公众号：电子课本大全

2. 想一想，填一填。

6 + 1 = □　　1 + 6 = □　　3 + 3 = □

3.



4.

4 + 1 = □	3 + 2 = □	2 + 3 = □
4 + 2 = □	3 + 3 = □	2 + 4 = □
4 + 3 = □	3 + 4 = □	2 + 5 = □

5.

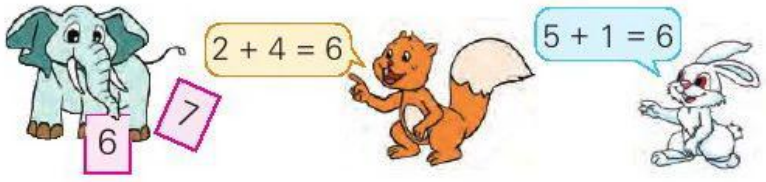

6.



□ + □ = 6

7.



微信公众号：电子课本大全

6



$6 - 2 = 4$

$6 - 4 = 2$

试一试



$7 - 2 = \square$

$7 - \square = \square$

想想做做

1.



$7 - 3 = \square$

$7 - \square = \square$



$6 - \square = \square$

$\square - \square = \square$

微信公众号：电子课本大全

2. 想一想，填一填。

7 − 6 = □　　7 − 1 = □　　6 − 3 = □

3.

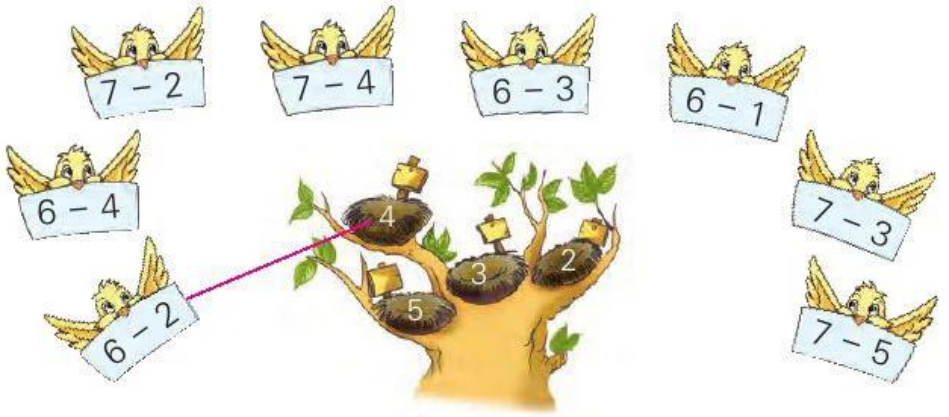

4.

6 − 5 = □	7 − 4 = □	5 − 2 = □
6 − 4 = □	7 − 5 = □	6 − 2 = □
6 − 3 = □	7 − 6 = □	7 − 2 = □

5.

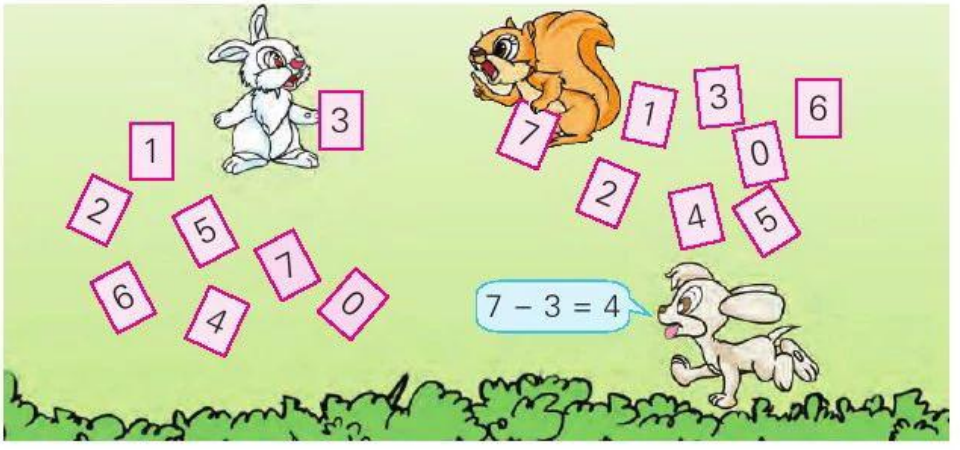

6.



7 − □ = □

7.

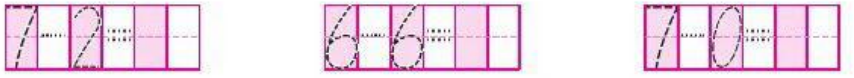

微信公众号：电子课本大全



练 习 六

1. 哪两张卡片上的数相加等于 6？哪两张相加等于 7？

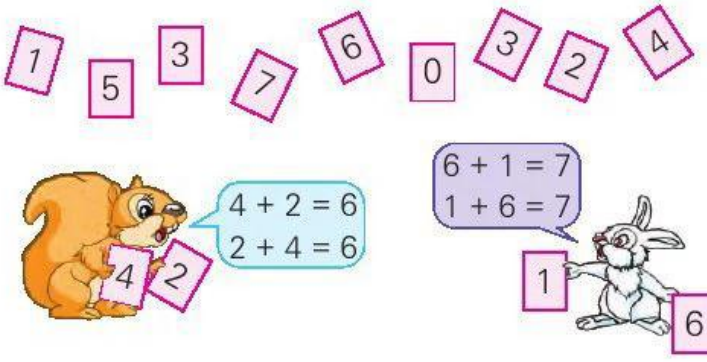

2. 拿出两张卡片，用大的数减小的数。

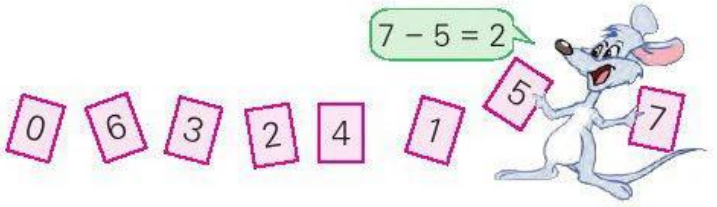

3.

3 + 4 =	1 + 5 =	6 − 1 =	6 − 4 =
6 − 2 =	2 + 5 =	7 − 4 =	0 + 6 =
5 + 1 =	7 − 7 =	6 − 3 =	4 + 2 =

4.

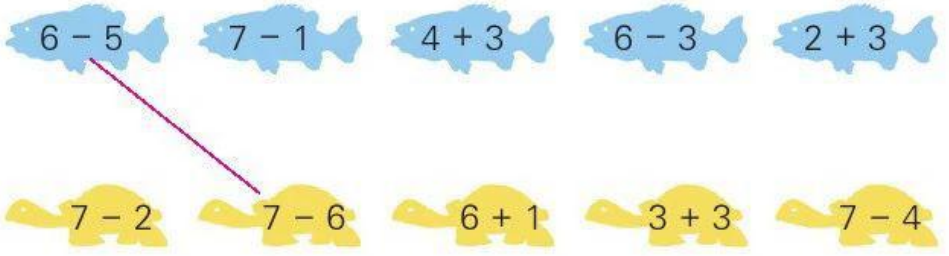

微信公众号：电子课本大全

5.





□ + □ = □

□ + □ = □

□ − □ = □

□ − □ = □

6. 看图写算式。



□ + □ = □



□ − □ = □

7. ☆ ☆ ☆ ☆ ☆ ☆ ☆ ☆ ☆

○ ○ ○ ○ ○ ○

☆ 比 ○ 多(　　)个，○ 比 ☆ 少(　　)个。

8. 按排列规律，袋子里应该放什么物体？

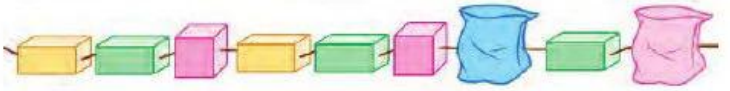

9. 16　　13　　15

微信公众号：电子课本大全

7



$5 + 3 = \square$　　$8 - 3 = \square$

$3 + 5 = \square$　　$8 - 5 = \square$

试一试



$6 + 2 = \square$

$\square + \square = \square$

$8 - 2 = \square$

$\square - \square = \square$

想想做做

1.



$\square + \square = \square$　　$\square - \square = \square$

$\square + \square = \square$　　$\square - \square = \square$

微信公众号：电子课本大全

2.

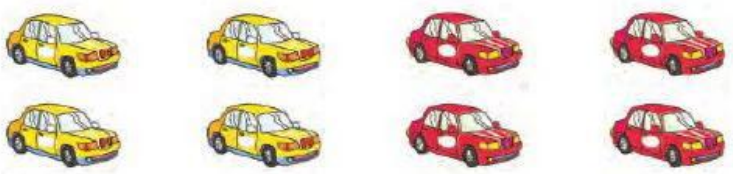

□ + □ = □

□ − □ = □

3.





4.

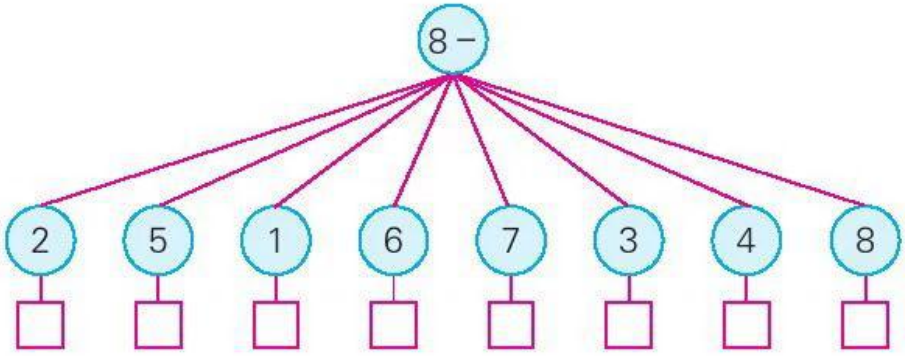

5.

1 + 7 =	2 + 6 =	8 − 1 =	8 − 2 =
8 − 6 =	8 − 7 =	8 − 4 =	5 + 3 =
3 + 5 =	7 + 1 =	4 + 4 =	8 − 5 =

6.



□ + □ = 8　　8 − □ = □

微信公众号：电子课本大全

8

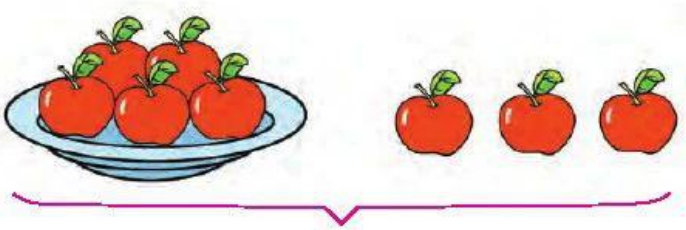

? 个

盘里有(　　)个苹果，

盘外有(　　)个苹果，

一共有 ＿＿ 个苹果。

□ + □ = □

试一试

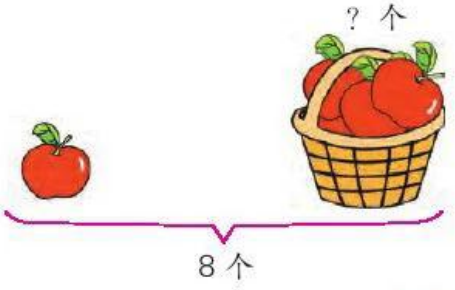

? 个

8 个

一共有 8 个苹果，

篮子外有(　　)个，

篮子里有 ＿＿ 个。

8 − □ = □

想想做做

1.



? 人

踢毽子的有(　　)人，

跳绳的有(　　)人，

一共有 ＿＿ 人。

□ + □ = □

微信公众号：电子课本大全

2.



一共有 6 只兔，
房子外有(　　)只，
房子里有　　只。

□ − □ = □

3.



□ ○ □ = □



□ ○ □ = □

4.

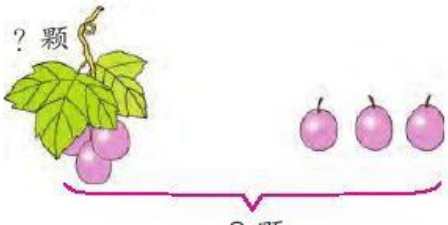

□ ○ □ = □

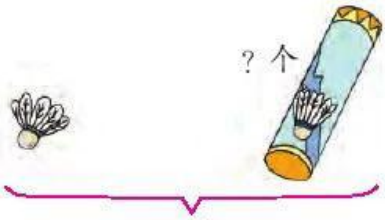

□ ○ □ = □

5.



比　多(　　)只，　比　少(　　)只。

微信公众号：电子课本大全

9





$8 + 1 = \square$　　$9 - 1 = \square$

$1 + 8 = \square$　　$9 - 8 = \square$

试一试

先把 9 个 ❁ 分成两堆，再填一填。



$\square + \square = \square$　　$\square - \square = \square$

$\square + \square = \square$　　$\square - \square = \square$

想想做做

1. 哪两张卡片上的数相加等于 9？

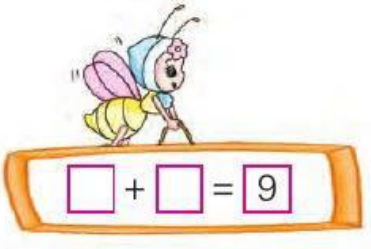



微信公众号：电子课本大全

2. 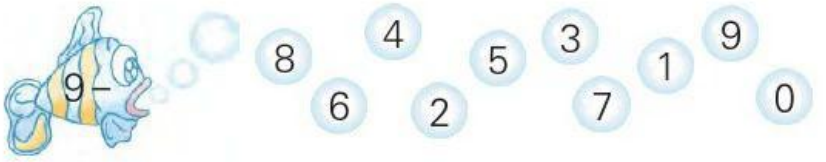

3.

5 + 4 =	9 − 3 =	9 − 2 =	9 − 7 =
9 − 4 =	7 + 2 =	2 + 7 =	6 + 3 =
3 + 6 =	9 − 6 =	4 + 5 =	9 − 5 =

4. □ + □ = 9

9 − □ = □



5. 

? 盒

□ ○ □ = □

? 根



8 根

□ ○ □ = □

6. 先说一说，再计算。





原来有 6 只  ，

又来了(　　)只，

一共有 ＿＿ 只。

□ ○ □ = □

微信公众号：电子课本大全

练习七

1.

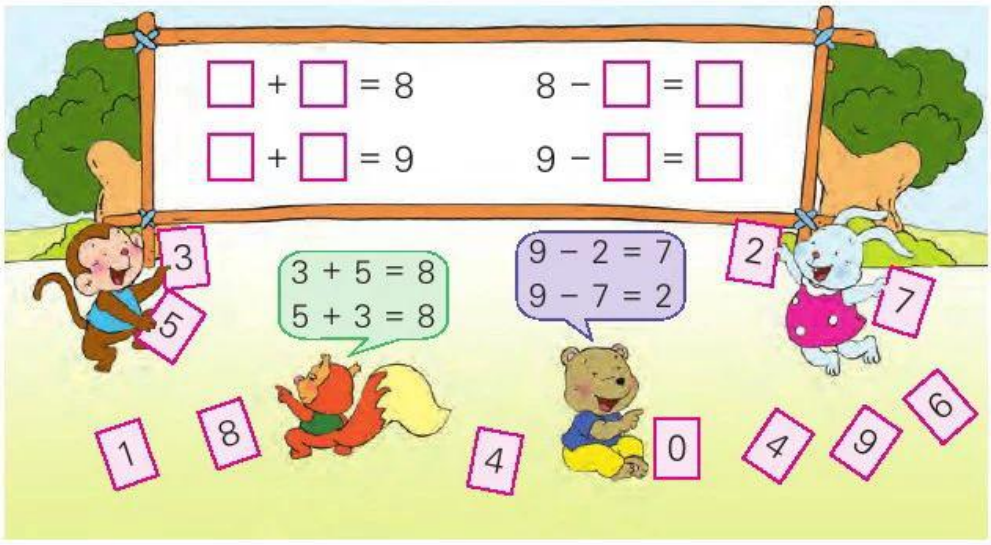

2.

6 + 3 =	9 − 3 =	9 − 8 =	2 + 6 =
9 − 4 =	1 + 8 =	3 + 6 =	9 − 6 =
5 + 3 =	8 − 5 =	9 − 7 =	4 + 5 =

3.

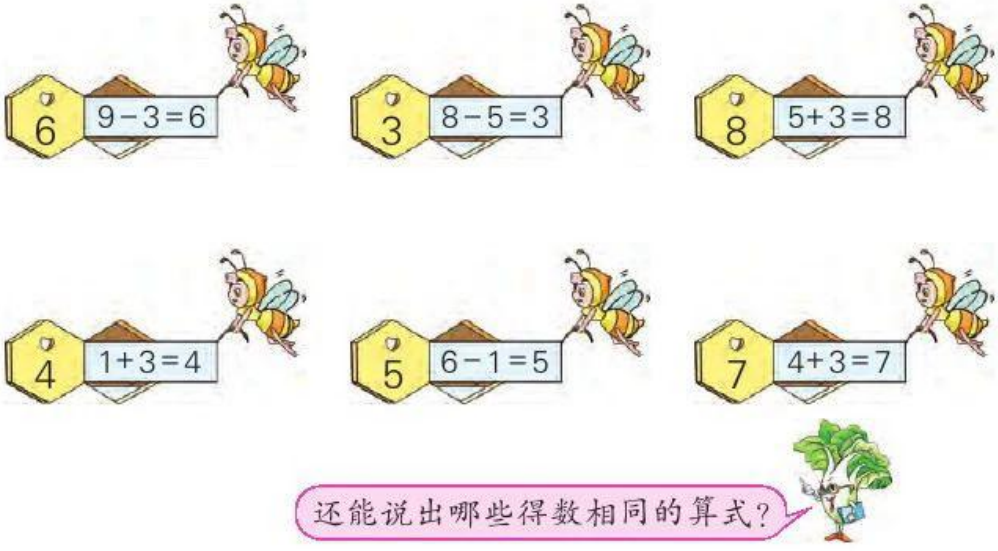

微信公众号：电子课本大全

4. 算一算，比一比。

2 + 4 =	8 − 1 =	3 + 6 =
2 + 5 =	8 − 3 =	3 + 4 =
2 + 6 =	8 − 5 =	3 + 2 =
2 + 7 =	8 − 7 =	3 + 0 =

5. 

比一比，在得数比 8 小的算式后面画“✓”。

2 + 6 = 8	9 − 1 = 8	4 + 4 = 8
2 + 4 ☐	9 − 3 ☐	4 + 3 ☐
2 + 7 ☐	9 − 0 ☐	5 + 4 ☐

6. 看图填一填，再计算。



苹果有（　）个，梨有（　）个，苹果和梨一共有　　个。

☐ ◯ ☐ = ☐

7. 哪两堆可以拼成  ？连一连。

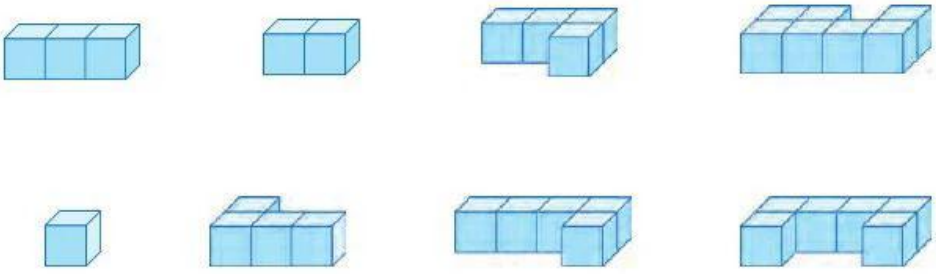

微信公众号：电子课本大全



$6 + 4 = \square$　　$10 - 4 = \square$

$4 + 6 = \square$　　$10 - 6 = \square$

试一试

把 10 个花片抛一抛，写出算式。



$\square + \square = \square$

$\square + \square = \square$

$\square - \square = \square$

$\square - \square = \square$

想想做做

1. 哪两张卡片上的数相加等于 10？



微信公众号：电子课本大全

2.



0 4 1 6 8

3 5 9 7 2

3.



1 + 9 = 10

2 + □ = □

3 + □ = □

4 + □ = □

5 + □ = □

□ + □ = □

□ + □ = □

□ + □ = □

□ + □ = □

4.

2 + 8 =	10 − 1 =	3 + 7 =	5 + 5 =
10 − 8 =	1 + 9 =	10 − 2 =	10 − 7 =
7 + 3 =	6 + 4 =	9 − 9 =	10 − 3 =

5. □ + □ = 10

10 − □ = □

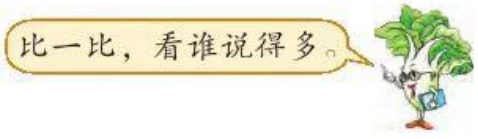

6. 圈一圈，填一填。



每班分 2 个，够分(　　)个班。

微信公众号：电子课本大全

11



再放几个是 10 个？



8 + (　　) = 10

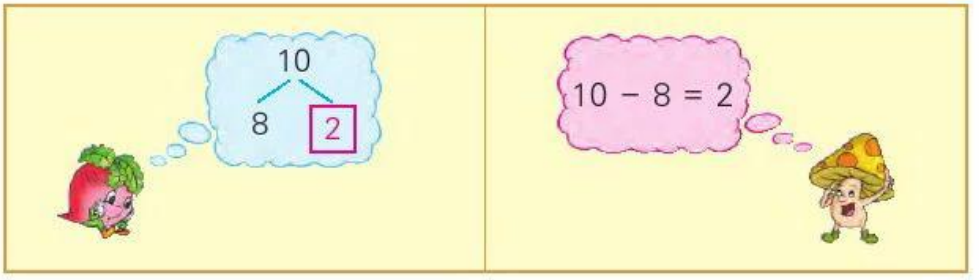

你是怎样想的？



想想做做

1.



5 + (　　) = 8

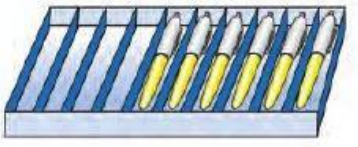

(　　) + 6 = 10

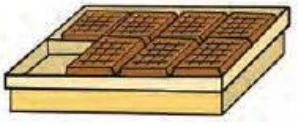

7 + (　　) = 8

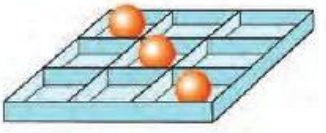

3 + (　　) = 9

微信公众号：电子课本大全

2. 看算式，画画填填。

□□□□□□□□□ _____ 9 + (　　) = 10

△△△ _____ 3 + (　　) = 10

○○○○○ _____ 5 + (　　) = 9

3.

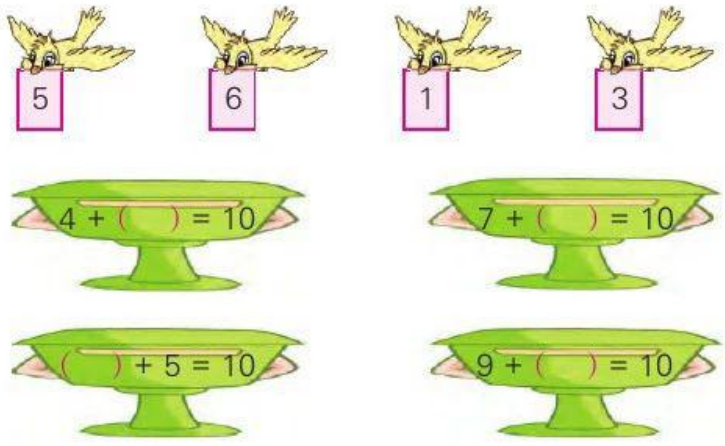

4. 2 + (　　) = 10　　(　　) + 9 = 10

(　　) + 3 = 7　　4 + (　　) = 9

5.



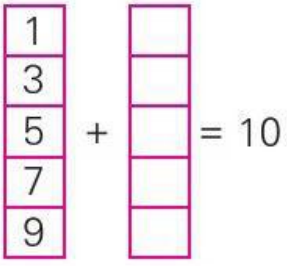

6. 在 ◯ 里填“>”“<”或“=”。

9 ◯ 7　　5 ◯ 6　　3 + 7 ◯ 10

4 + 5 ◯ 7　　9 − 4 ◯ 6　　9 − 3 ◯ 5

微信公众号：电子课本大全

练习八

1.

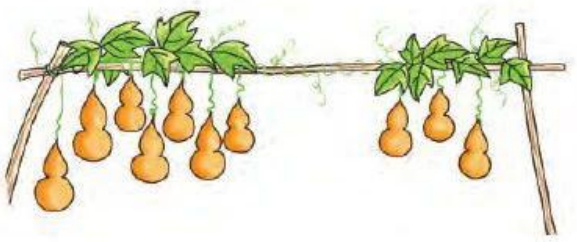

□ ○ □ = □

□ ○ □ = □

□ ○ □ = □

□ ○ □ = □

2.

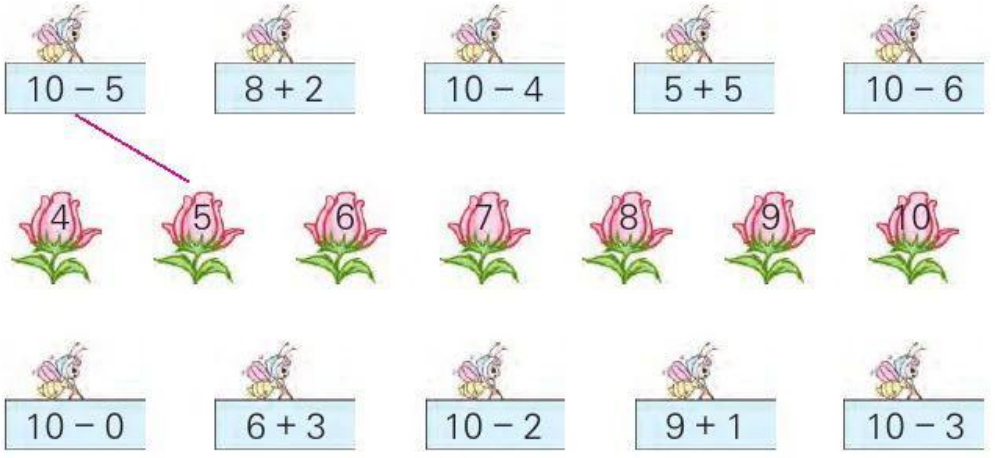

3.

10 − 9 =	4 + 4 =	10 − 1 =	2 + 8 =
4 + 5 =	7 − 2 =	1 + 9 =	10 − 7 =
9 − 5 =	4 + 6 =	10 − 8 =	5 + 2 =

4. 8 + ( ) = 10　　6 + ( ) = 10

5 + ( ) = 8　　7 + ( ) = 9

5. 5 + 5 = 2 + □　　3 + 4 = □ + 1

10 − 2 = 4 + □　　9 − 3 = 3 + □

微信公众号：电子课本大全

6.



10 − | 2 / 4 / 6 / 8 / 10 | = | | / | | / | | / | | / | |

7.

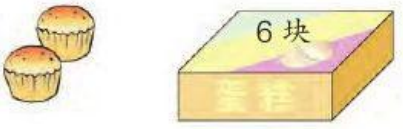

? 块

□ ○ □ = □



? 个

□ ○ □ = □

8.





原来有 10 根木头，大象搬走(　　)根，还剩　　根。

□ ○ □ = □

9. 想一想，填一填。

4 + □ = 5 + □

6 + □ = 7 + □

8 + □ = 9 + □





小红和小组里的每一个同学都合照一次像，一共照了 9 次。小组里一共有(　　)人。



微信公众号：电子课本大全

12







$4 + 2 + 1 = \square$

$\square$

13



$8 - 3 - 1 = \square$

$\square$

想想做做

1.

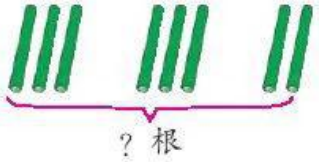

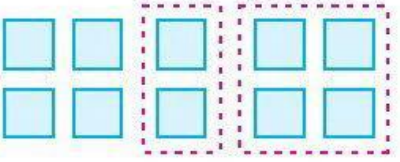

$3 + \square + \square = \square$

$10 - 4 - \square = \square$

微信公众号：电子课本大全

2.



□ + □ + □ = □

3.



9 − □ − □ = □

4. 5 + 1 + 2 = □　　10 − 5 − 3 = □

6 − 3 − 3 = □　　3 + 5 + 2 = □

2 + 4 + 2 = □　　8 − 2 − 3 = □

5.  　□○□○□ = □

6. 写一写，算一算。

2 + 3 + 4　　10 − 2 − 3

微信公众号：电子课本大全

14



$7 - 2 + 3 = \square$

$\square$

想想做做

1.



$6 + 2 - \square = \square$

2.



$5 - 2 + \square = \square$

微信公众号：电子课本大全

3. $8 - 3 + 2 = \square$　　$7 - 3 + 3 = \square$

$1 + 7 - 5 = \square$　　$10 - 4 + 1 = \square$

$6 + 3 - 8 = \square$　　$8 + 1 - 7 = \square$

$5 - 2 + 6 = \square$　　$4 + 5 - 6 = \square$

4.

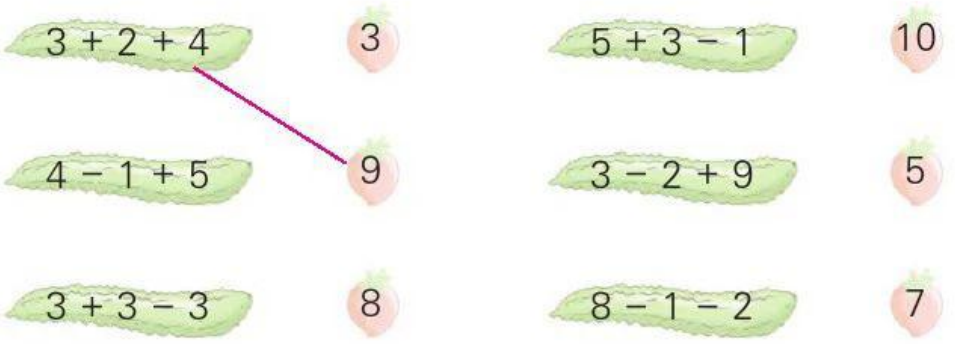

5.



□ ○ □ ○ □ = □

6. 写一写，算一算。

$7 + 3 - 5$　　$10 - 6 + 4$

微信公众号：电子课本大全



练 习 九

1. 比比谁跳得快。

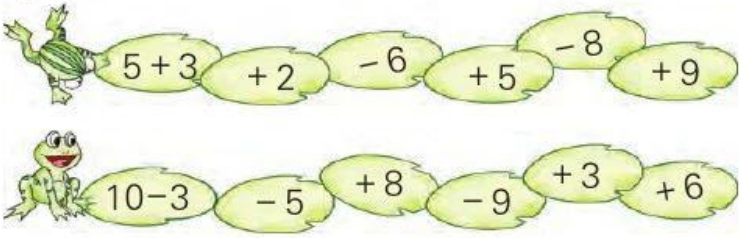

2. $2+6+2=\square$　　$10-1-4=\square$

$7-2+4=\square$　　$8+2-6=\square$

3. 在○里填“>”“<”或“=”。

$9-4\bigcirc 4$　　$2+8\bigcirc 10$　　$0+9\bigcirc 10$

4. 把横行、竖行上的数分别相加。

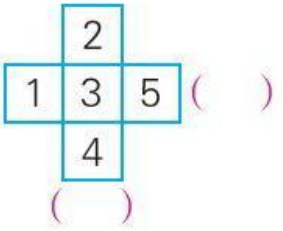

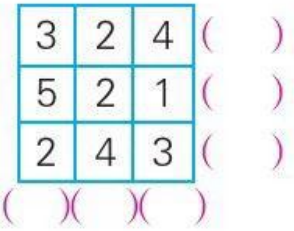

5.



$6-\square+\square=\square$

6. 写一写，算一算。

$5+4-2$

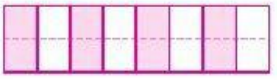

$10-5-4$



微信公众号：电子课本大全

4.

2−1								
3−1	3−2							
4−1	4−2	4−3						
5−1	5−2	5−3	5−4					
6−1	6−2	6−3	6−4	6−5				
7−1	7−2	7−3	7−4	7−5	7−6			
8−1	8−2	8−3	8−4	8−5	8−6	8−7		
9−1	9−2	9−3	9−4	9−5	9−6	9−7	9−8	
10−1	10−2	10−3	10−4	10−5	10−6	10−7	10−8	10−9

（1）竖着看，减法算式是怎样排列的？横着看呢？

（2）任意指一道算式很快说出得数。

5.

4 + 4 =	8 − 6 =	4 + 1 =	7 − 2 =
7 + 2 =	10 − 4 =	7 − 3 =	10 − 7 =
8 − 7 =	1 + 9 =	6 + 3 =	6 − 4 =
3 + 5 =	10 − 8 =	9 − 4 =	2 + 3 =
3 + 3 =	10 − 5 =	1 + 5 =	9 − 8 =

6. 6 + (　　) = 10　　(　　) + 5 = 10

(　　) + 2 = 10　　(　　) + (　　) = 10

7. 3 + 1 + 6 = □　　8 − 4 + 3 = □

9 − 1 − 3 = □　　3 + 4 − 2 = □

8. 在 ○ 里填“>”“<”或“=”。

2 + 6 ○ 9　　8 − 8 ○ 0　　6 + 3 ○ 8

7 − 3 ○ 3　　5 + 4 ○ 10　　10 − 5 ○ 6

微信公众号：电子课本大全

复习

1.



□○□=□　　□○□=□

□○□=□　　□○□=□

2.



？条

□○□=□

？只



10 只

□○□=□

3.

1+1								
2+1	1+2							
3+1	2+2	1+3						
4+1	3+2	2+3	1+4					
5+1	4+2	3+3	2+4	1+5				
6+1	5+2	4+3	3+4	2+5	1+6			
7+1	6+2	5+3	4+4	3+5	2+6	1+7		
8+1	7+2	6+3	5+4	4+5	3+6	2+7	1+8	
9+1	8+2	7+3	6+4	5+5	4+6	3+7	2+8	1+9

（1）竖着看，加法算式是怎样排列的？横着看呢？

（2）任意指一道算式很快说出得数。

微信公众号：电子课本大全

9.



岸上有(　　)只鸭，
河里有(　　)只鸭，
一共有　　只鸭。

□○□=□



原来有 8 个桃，
拿走(　　)个，
还剩　　个。

□○□=□

10.



□○□=□

11.



□○□○□=□



在○里填数，使每条线上三个数连加都等于 10。

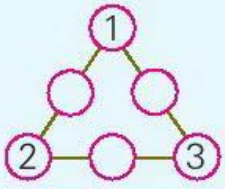

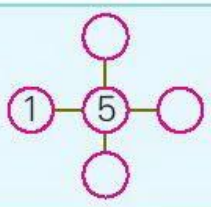

微信公众号：电子课本大全



微信公众号：电子课本大全



微信公众号：电子课本大全

九 认识 11～20 各数

1





（　　）个一是 1 个十。





你会摆一摆、数一数吗？



11　　13　　19

19 根添上 1 根是多少根？





（　　）个十是 20。

微信公众号：电子课本大全

想想做做

1. 抓一把 /，数数有多少根。



2. 看着尺子上的数，从 0 读到 20。



3. 从 7 数到 17，从 11 数到 20。

4. 先估一估是多少，再数出来。





5. 读一读。









6. 拿出数学书，先数出 10 张，看看有多厚；再数出 20 张，看看有多厚。

微信公众号：电子课本大全

2



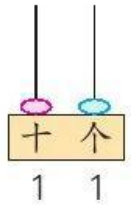

1 个十和 1 个一合起来是 11。



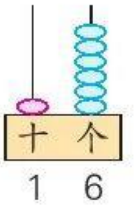

1 个十和 6 个一合起来是(　　)。



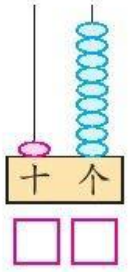

(　　)个十和
(　　)个一合起来是(　　)。



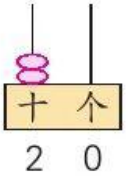

(　　)个十是 20。

想想做做

1.

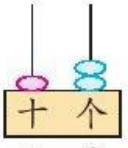

1 个十和
2 个一

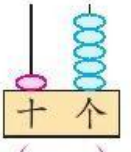

___个十和
___个一

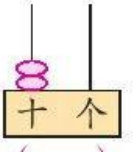

___个十

2. 从 13 写到 20。



微信公众号：电子课本大全

3. 看数画一画。

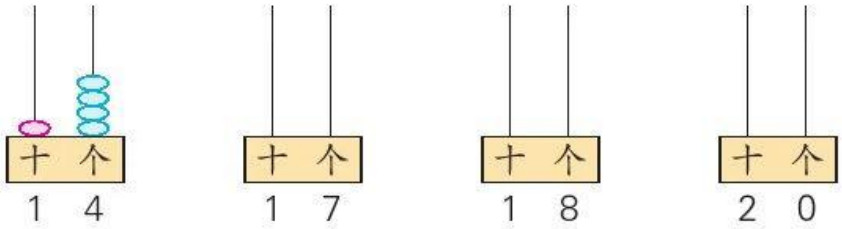

4. (1) 15 里面有(　　)个十和(　　)个一。

(2) 1 个十和 3 个一合起来是(　　)。

(3) 2 个十是(　　)。

5.

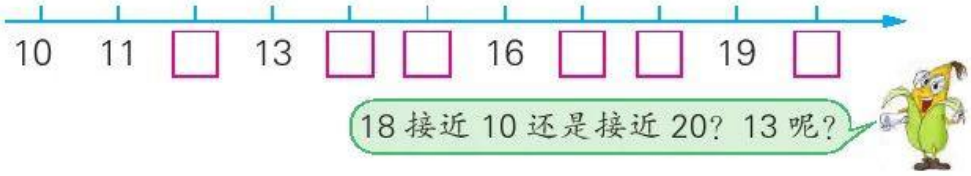

6. 在○里填“>”或“<”。

11 ○ 10　　12 ○ 13　　19 ○ 20　　15 ○ 5

7.

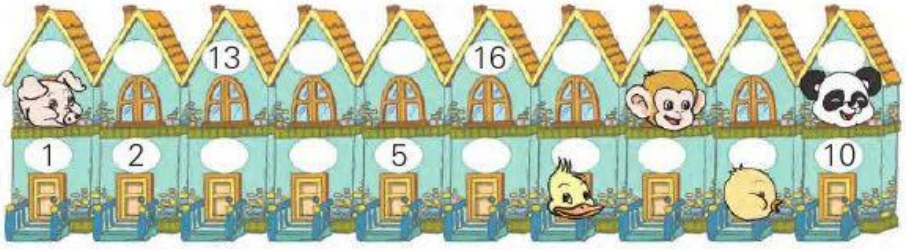

一共有(　　)个房间。  住第(　　)号，  住第(　　)号，  住第(　　)号，  住第(　　)号，  住第(　　)号。

8. 说一说。



微信公众号：电子课本大全

3





10 + 5 = □　　15 − 5 = □

5 + 10 = □　　15 − 10 = □

想想做做

1.





□ ○ □ = □　　□ ○ □ = □

□ ○ □ = □　　□ ○ □ = □

2.

10 + 2 =	12 − 2 =
2 + 10 =	12 − 10 =

9 + 10 =	19 − 10 =
10 + 9 =	19 − 9 =

3.

10 + 6 =	1 + 10 =	10 − 7 =
18 − 10 =	13 − 10 =	16 − 10 =
4 + 10 =	11 − 1 =	5 + 10 =

4.

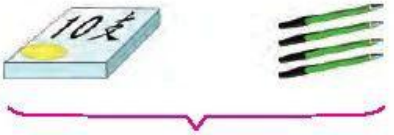

? 支

□ ○ □ = □



13 个

□ ○ □ = □

微信公众号：电子课本大全

练习十

1. 先圈出 10 只，再写出一共有多少只。



□



□

2. 按顺序填数。

12		14		16		18		20	

		19				15			

3.

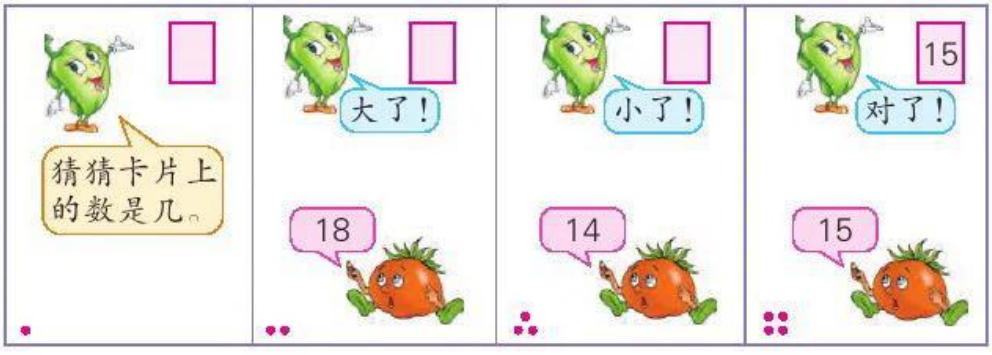

4. 不计算，在○里填“>”“<”或“=”。

10 + 4 ○ 10　　15 − 10 ○ 15　　8 + 10 ○ 18

10 − 4 ○ 10　　10 + 5 ○ 5　　18 − 8 ○ 8

5. 8 + 2 + 3 = □　　11 − 1 − 5 = □

10 − 7 + 6 = □　　7 + 3 − 8 = □

6. 9 + □ = 10　　8 + □ = 10　　7 + □ = 10

微信公众号：电子课本大全

十 20 以内的进位加法

1





9 + 4 = □（个）





9 + 4 = 13

1　3

10



试一试

先圈出 10 朵，再填一填。



9 + 7 = □

□　□

10

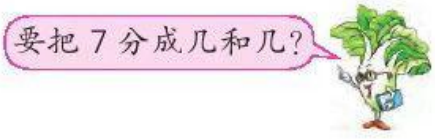

微信公众号：电子课本大全

想想做做

1.



9 + 6 = □

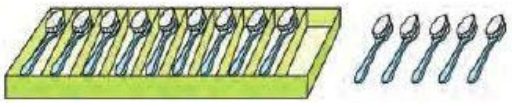

9 + 5 = □

2. 先圈出 10 根，再计算。



9 + 3 = □



9 + 8 = □

3.

9 + 1 + 1 = □

9 + 2 = □

9 + 1 + 8 = □

9 + 9 = □

4.

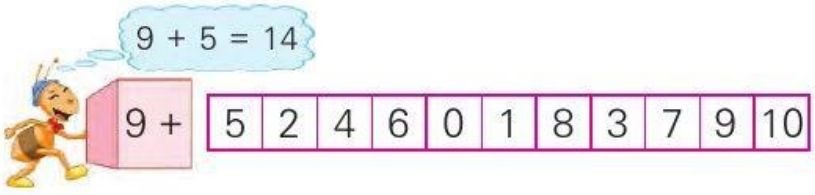

5. 9 + 1 = □　　9 + 4 = □　　9 + 7 = □

9 + 2 = □　　9 + 5 = □　　9 + 8 = □

9 + 3 = □　　9 + 6 = □　　9 + 9 = □

微信公众号：电子课本大全

5.

9 + 4 =	9 + 9 =	9 + 5 =	9 + 7 =
9 + 8 =	9 + 2 =	9 + 6 =	9 + 3 =

6. 5 + 4 + 7 = □　　3 + 6 + 5 = □

1 + 8 + 4 = □　　9 + 2 − 10 = □

7. 看图填一填，再计算。



原来有(　　)人在溜冰，
又来了(　　)人，
一共有多少人？

□ ○ □ = □（人）



原来有(　　)盆花，
又搬来(　　)盆，
一共有多少盆？

□ ○ □ = □（盆）

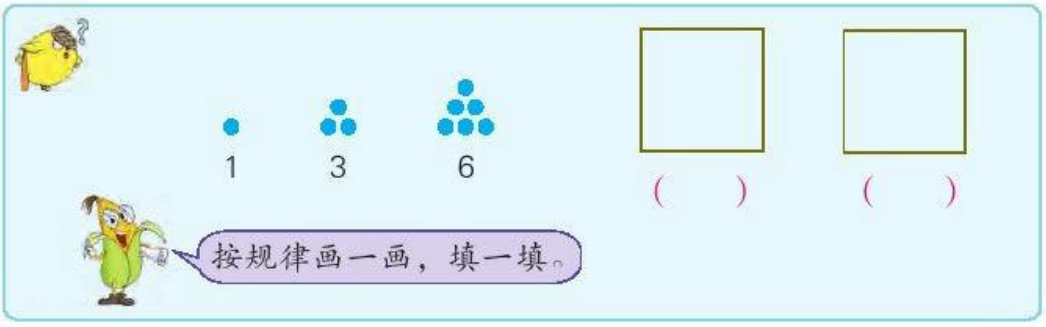

微信公众号：电子课本大全

练习十一

1. $9 + 3 = \square$ $9 + 8 = \square$ $9 + 9 = \square$

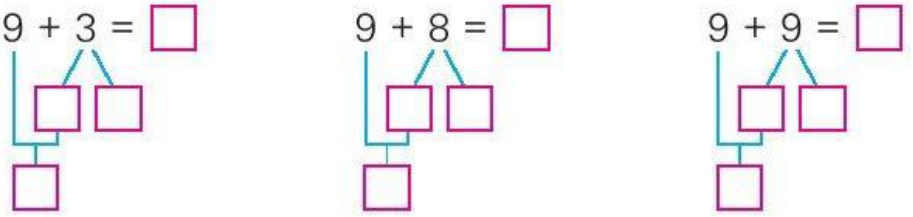

2. $9 + \begin{cases} 2 = \square \\ 4 = \square \\ 6 = \square \\ 8 = \square \end{cases}$ $9 + \begin{cases} 9 = \square \\ 7 = \square \\ 5 = \square \\ 3 = \square \end{cases}$

3.



4.

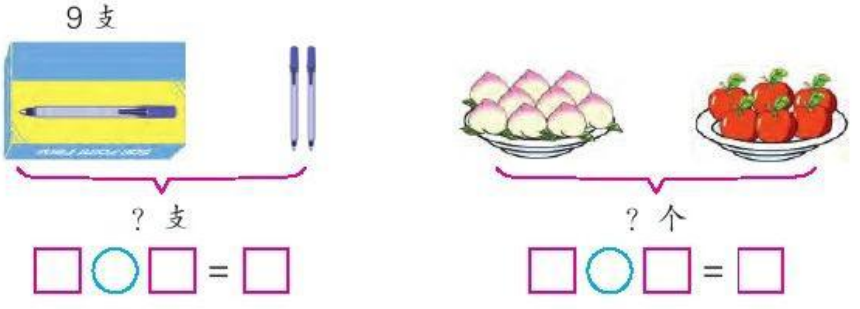

$\square \bigcirc \square = \square$ $\square \bigcirc \square = \square$

微信公众号：电子课本大全

2

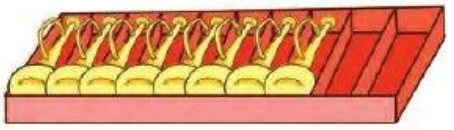

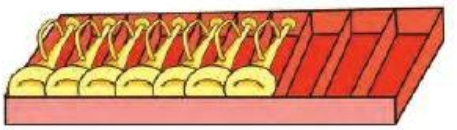



8 + 7 = □（把）



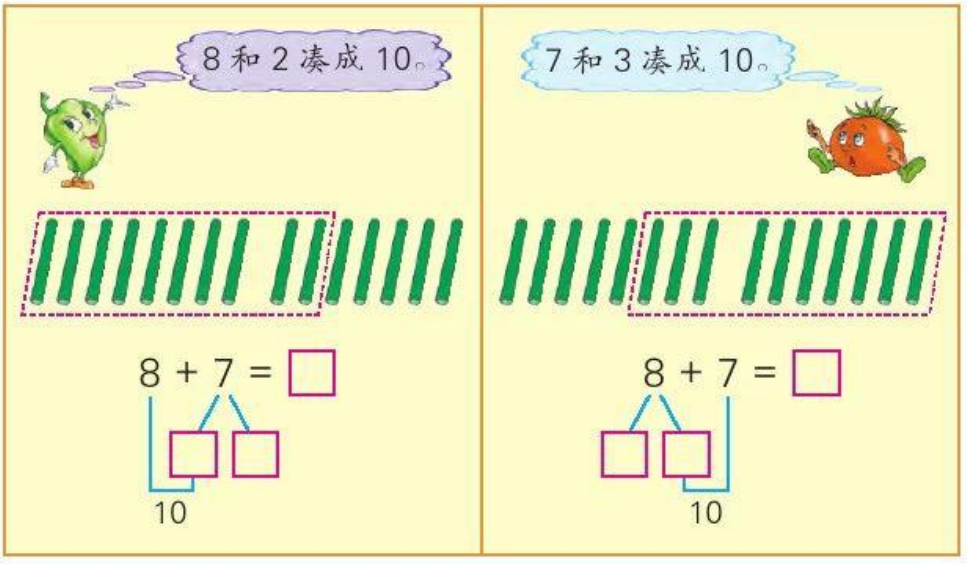

试一试

先说说怎样算，再填空。

7 + 9 = □



微信公众号：电子课本大全

想想做做

1. 先圈出 10 个，再计算。



8 + 3 = □



7 + 6 = □

2. 8 + 4 = □

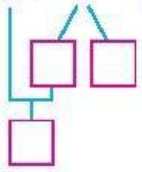

8 + 8 = □

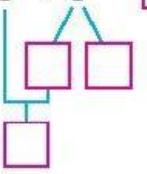

7 + 4 = □

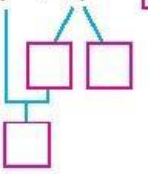

3.



7 + 8 = □　　8 + 6 = □　　8 + 5 = □

7 + 5 = □　　8 + 9 = □　　7 + 7 = □

4. 9 + 8 = □　　8 + 7 = □　　9 + 7 = □

8 + 9 = □　　7 + 8 = □　　7 + 9 = □

5.

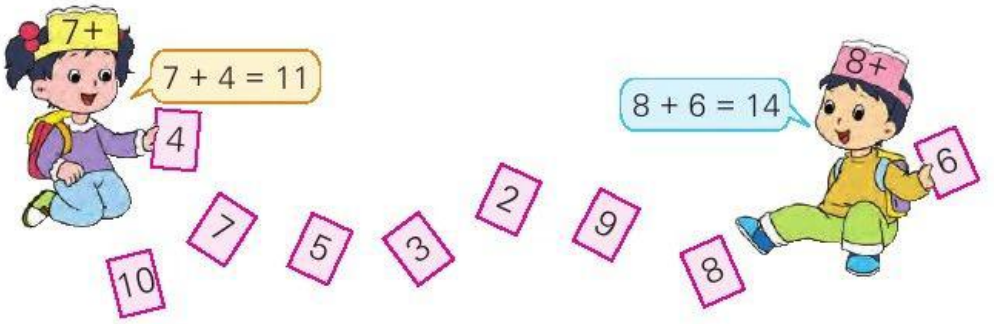

微信公众号：电子课本大全

练习十二

1.

8 + 2 + 2 = □
8 + 4 = □

8 + 2 + 4 = □
8 + 6 = □

7 + 3 + 2 = □
7 + 5 = □

7 + 3 + 4 = □
7 + 7 = □

2.

8 + { 6 = □ ; 7 = □ ; 8 = □ ; 9 = □ }

7 + { 9 = □ ; 8 = □ ; 7 = □ ; 6 = □ }

3.

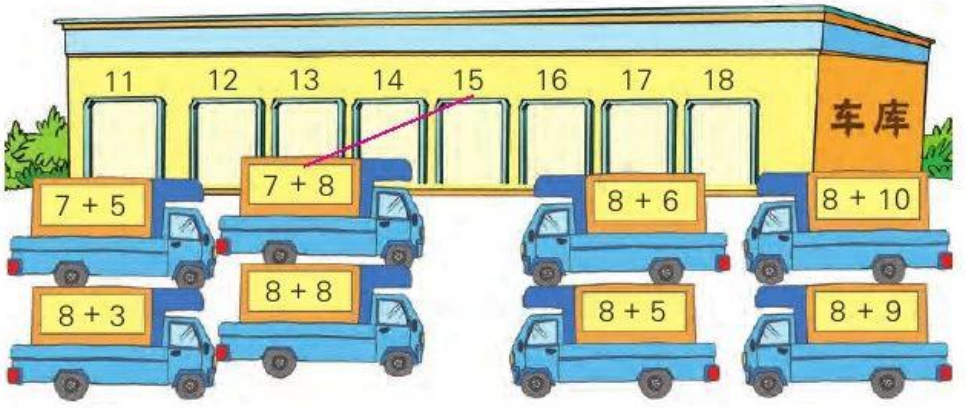

4.

			
大班有	8 架	7 台	7 只
小班有	5 架	7 台	4 只
一共有	(　　)架	(　　)台	(　　)只

微信公众号：电子课本大全

3



6 + 5 = □（个）



试一试

6 + 6 = □　　4 + 9 = □　　5 + 8 = □

想想做做

1.

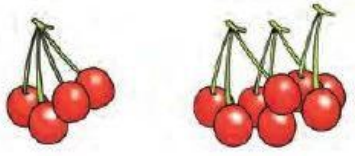

□ + □ = □

□ + □ = □



□ + □ = □

□ + □ = □

2.

7 + 4 = □	9 + 5 = □	8 + 3 = □
4 + 7 = □	5 + 9 = □	3 + 8 = □

微信公众号：电子课本大全

5.

8 + 4 =	7 + 4 =	8 + 6 =	7 + 7 =
7 + 6 =	8 + 5 =	7 + 5 =	7 + 8 =
8 + 9 =	8 + 8 =	7 + 9 =	8 + 3 =

6. 在 ○ 里填“>”“<”或“=”。

8 + 4 ○ 11　　7 + 6 ○ 14　　8 + 3 ○ 13

7 + 7 ○ 13　　8 + 7 ○ 15　　8 + 9 ○ 16

7.



□ ○ □ = □（个）

8.



□ ○ □ = □（棵）





盒子里一共有（　　）个白珠，（　　）个黑珠。

微信公众号：电子课本大全



练习十三

1. 9 + 6 = □　　8 + 4 = □　　9 + 2 = □
   6 + 9 = □　　4 + 8 = □　　2 + 9 = □

2. 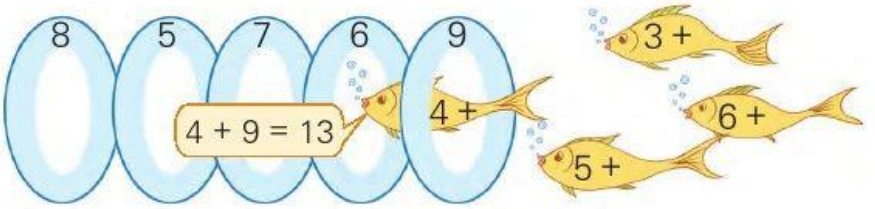

3. 在得数比 12 小的算式后面画“✓”。

9 + 3 = 12	6 + 6 = 12	4 + 8 = 12
9 + 5 □	5 + 6 □	4 + 9 □
9 + 2 □	7 + 6 □	3 + 8 □

4.

5 + 6 =	5 + 8 =	6 + 7 =
6 + 8 =	6 + 6 =	5 + 9 =
3 + 8 =	4 + 7 =	5 + 7 =

5. 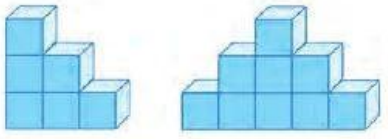

左边有(　　)个  ，
右边有(　　)个  ，
一共有多少个  ？

□ ○ □ = □（个）

6. 有 6 个  ，又买来 8 个，现在有多少个？

□ ○ □ = □（个）

微信公众号：电子课本大全

3. 用你喜欢的方法计算。

6 + 9 = □　　6 + 7 = □　　5 + 7 = □

5 + 6 = □　　2 + 9 = □　　6 + 8 = □

4.

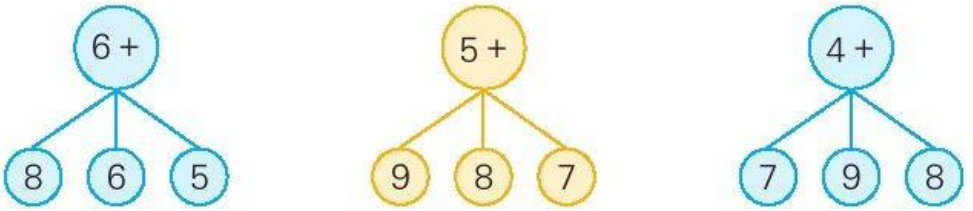

5.



一共有多少个球？

□ ○ □ = □（个）



桌上有（　　）盆花，

地上有（　　）盆花，

一共有多少盆花？

□ ○ □ = □（盆）

6. 把得数是 12 的涂红色，得数是 11 的涂绿色。

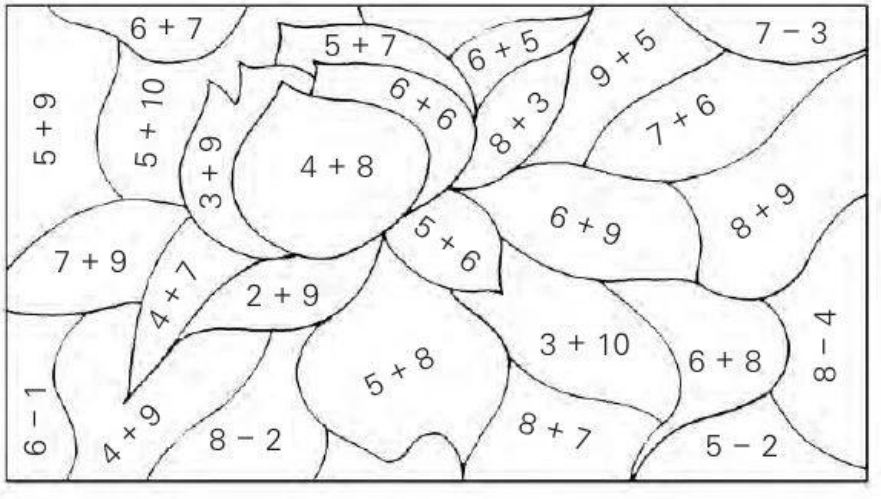

微信公众号：电子课本大全

7.



现在有多少辆？

□ ○ □ = □（辆）

8.



6 人



5 人



8 人

（1）跳绳的和拍球的一共有多少人？

□ ○ □ = □（人）

（2）拍球的和打乒乓球的一共有多少人？

□ ○ □ = □（人）

你还能提出用加法计算的问题吗？

用 □□ 或 □ □ 框出两个数，把它们相加。

得数中最小的是（　　），最大的是（　　）。

得数能是 12 吗？

1	2	3
4	5	6
7	8	9

微信公众号：电子课本大全

复习

1.



9 + 5 = □

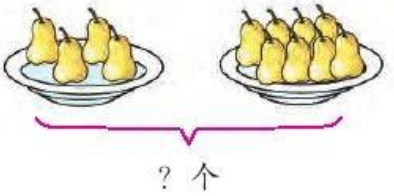

4 + 8 = □

2.

9+2							
9+3	8+3						
9+4							
9+5	8+5						
9+6		7+6					
9+7	8+7		6+7		4+7		
9+8				5+8		3+8	
9+9	8+9	7+9		5+9			

(1) 在空格里填上合适的算式。

(2) 竖着看，加法算式是怎样排列的？横着看呢？

(3) 任意指一道算式很快算出得数。

3. 把得数是 11、12、13……18 的加法算式一组一组地说出来。

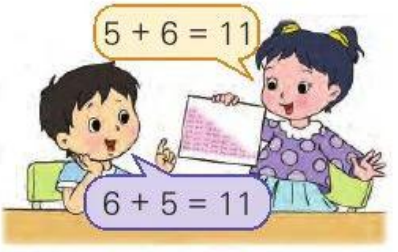

4.

9 + 3 = { 8 + 4 ; □ + □ ; □ + □ }

6 + 9 = { 7 + 8 ; □ + □ ; □ + □ }

微信公众号：电子课本大全

5. 在 ◯ 里填“>”“<”或“=”。

9 + 6 ◯ 16　　8 + 5 ◯ 13　　3 + 9 ◯ 10

6.

2 + 9 =	8 + 6 =	4 + 9 =	7 + 7 =
5 + 7 =	9 + 9 =	8 + 9 =	4 + 8 =
6 + 5 =	7 + 9 =	7 + 4 =	7 + 6 =

7.



两个花坛一共有多少朵花？

□ ◯ □ = □（朵）

8.



9. 图书馆里有 18 本 

。借走 8 本，还剩多少本？

□ ◯ □ = □（本）

10. 右边的蜡笔有两盒是小明的。小明最少有多少支？最多呢？



微信公众号：电子课本大全



期末复习

1. 看图写数。



(　　)

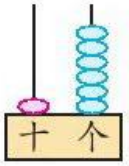

(　　)

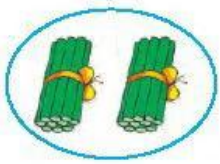

(　　)

2.

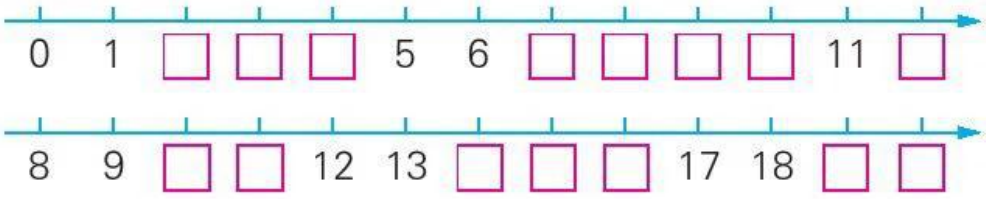

12 和 17 中，(　　)接近 10，(　　)接近 20。

3. 1 个十和 6 个一合起来是(　　)。
18 里面有(　　)个十和(　　)个一。
20 里面有(　　)个十。

4. 在 7、20、19、10、17 中，最大的数是(　　)，最小的数是(　　)，大于 10 的数有(　　)个。把它们按从小到大的顺序排列是：

(　　) < (　　) < (　　) < (　　) < (　　)

5. 10 + 3 = □　　19 − 9 = □　　6 + 10 = □
18 − 10 = □　　2 + 10 = □　　15 − 5 = □

微信公众号：电子课本大全

6. 数一数，分一分。

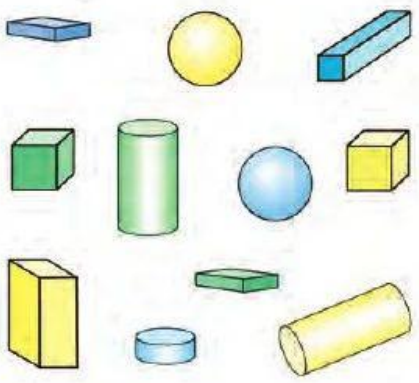

	(　　)个
	(　　)个
	(　　)个
	(　　)个

7. 每次选 3 张卡片说出 4 道算式。



8.

3 + 7 =	6 + 3 =	8 − 0 =	0 + 9 =
10 − 5 =	4 + 5 =	7 − 4 =	5 + 3 =
6 − 1 =	10 − 4 =	2 + 4 =	4 + 4 =

9.

			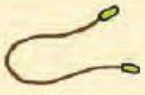
原　有	17 个	16 个	10 根
借　出	7 个	10 个	8 根
还　剩	(　　)个	(　　)个	(　　)根

微信公众号：电子课本大全

10. 6 + (　　) = 10　　(　　) + 5 = 15

(　　) + 2 = 9　　8 + (　　) = 10

11. 

唱歌的有(　　)人，伴舞的有(　　)人，唱歌和伴舞的一共有多少人？

□ ○ □ = □ (人)

12. 算一算，填一填，你能发现什么？



9									
8									
7									
6								14	
5		7							
4									
3							10		
2									
1	2								
+	1	2	3	4	5	6	7	8	9

13. 在 ○ 里填“>”“<”或“=”。

8 + 4 ○ 11　　6 + 5 ○ 5 + 6

7 + 7 ○ 13　　7 + 9 ○ 10 + 7

14. 9 + (　　) = 13　　8 + (　　) = 14　　(　　) + 5 = 12

微信公众号：电子课本大全

15. $3 + 6 + 5 = \square$　　$9 + 4 - 10 = \square$

$17 - 7 - 3 = \square$　　$8 - 3 + 6 = \square$

$4 + 4 + 4 = \square$　　$5 + 5 + 5 = \square$

16.

$9 + 5 =$	$3 + 8 =$	$6 + 6 =$	$7 + 7 =$
$6 + 7 =$	$7 + 5 =$	$8 + 8 =$	$9 + 3 =$
$8 + 9 =$	$9 + 6 =$	$7 + 8 =$	$7 + 9 =$
$5 + 8 =$	$4 + 7 =$	$9 + 2 =$	$9 + 9 =$

17.



□ ○ □ = □（个）

18. 卷一卷，折一折。

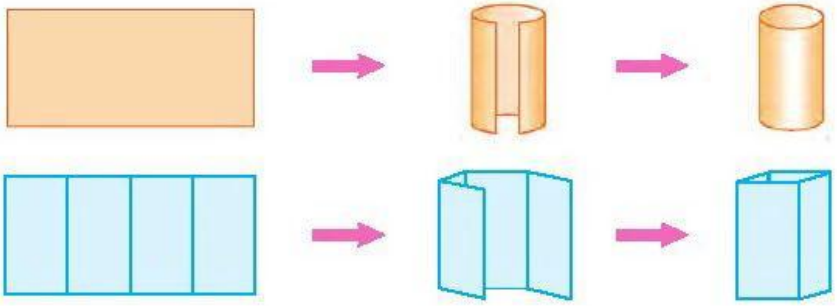



微信公众号：电子课本大全

19.





□○□=□(人)



□○□=□(人)

20. 有15个小朋友，每人发一个面包，买哪两盒比较合适？在□里画“✓”。

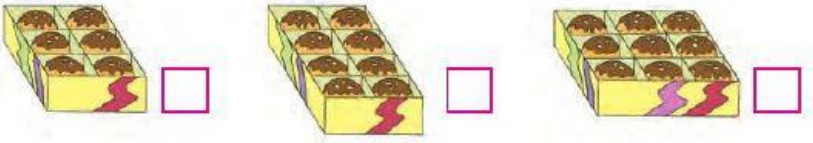



从前往后数，第5只是  ；从后往前数，第8只是  。
一共有多少只小动物？



微信公众号：电子课本大全





微信公众号：电子课本大全





微信公众号：电子课本大全



微信公众号：电子课本大全





关注和推荐梅语文、梅学堂，获取更多免费好资源

您的支持，是我们努力的动力！

微信公众号：电子课本大全