教育部审定
2013

义务教育教科书

数学

二年级　上册



江苏教育出版社

微信公众号 电子课本大全

目 录



一 100以内的加法和减法(三) …… 1

二 平行四边形的初步认识 …… 12

有趣的七巧板 …… 18



三 表内乘法(一) …… 20

四 表内除法(一) …… 42

五 厘米和米 …… 59

我们身体上的“尺” …… 68

六 表内乘法和表内除法(二) …… 70

七 观察物体 …… 90

八 期末复习 …… 94



微信公众号：电子课本大全

二 100以内的加法和减法(三)

1



三人一共折了多少只？

19 + 27 + 26 = □（　　）

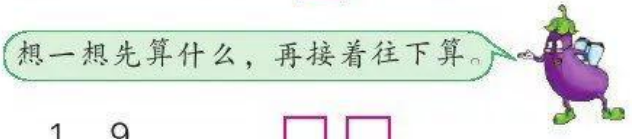

$$\begin{array}{r} 1\ 9 \\ +\ 2\ 7 \\ \hline \square\square \end{array} \qquad \begin{array}{r} \square\square \\ +\ 2\ 6 \\ \hline \square\square \end{array}$$

还可以这样写：

$$\begin{array}{r} 1\ 9 \\ +\ 2\ 7 \\ \hline \square\square \\ +\ 2\ 6 \\ \hline \square\square \end{array}$$

试一试

90 − 25 − 28 = □

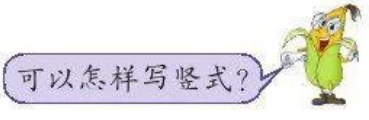

微信公众号：电子课本大全

想想做做

1.

$$\begin{array}{r} 35 \\ +\ 24 \\ \hline \square\square \\ +\ 17 \\ \hline \square\square \end{array} \qquad \begin{array}{r} 93 \\ -\ 58 \\ \hline \square\square \\ -\ 17 \\ \hline \square\square \end{array}$$

2. $23 + 36 + 27$　　$45 + 28 + 16$　　$92 - 44 - 23$

$50 - 25 - 25$　　$85 - 29 - 38$　　$32 + 32 + 32$

3.



37 人　　48 人　　14 人

？人

□○□○□=□

4.



（1）一共摘了多少个？

□○□=□（　　）

（2）运走 60 个，还剩多少个？

□○□=□（　　）

微信公众号：电子课本大全

2



送给幼儿园 33 只，还剩多少只？

$38 + 42 - 33 = \square$（　　）



$$\begin{array}{r} 3\ 8 \\ +\ 4\ 2 \\ \hline \square\square \end{array}$$

试一试

$60 - 38 + 40 = \square$

$$\begin{array}{r} 6\ 0 \\ -\ 3\ 8 \\ \hline 2\ 2 \end{array}$$

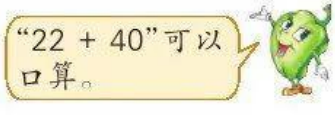

想想做做

1. $50 - 26 + 49$　　$45 + 38 - 24$

   $44 + 52 - 37$　　$74 - 27 + 36$

2.

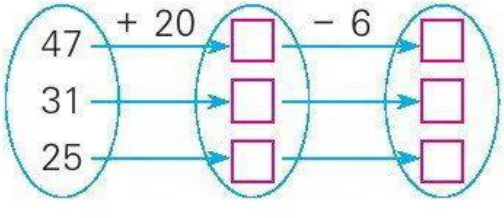

微信公众号：电子课本大全

3. 计算下面各题，能口算的就口算。

35 − 14 + 40　　47 + 16 − 8

40 + 26 + 15　　83 − 30 − 29

4.





(1) 还剩多少棵?

□○□=□(　　)

(2) 又买来 28 棵，现在一共有多少棵?

□○□=□(　　)

5.



(1) 全班一共栽树多少棵?

□○□=□(　　)

(2) 女生栽树多少棵?

□○□=□(　　)

微信公众号：电子课本大全

练习一

1. 口算下面各题。

4 + 26 =	35 − 7 =	35 + 6 =
45 − 20 =	68 + 9 =	70 − 8 =

2. 22 + 28 + 34　　84 − 8 − 28

   75 − 27 + 30　　62 − 39 + 25

3. 算出每条线上 3 个数的和，填在(　　)里。

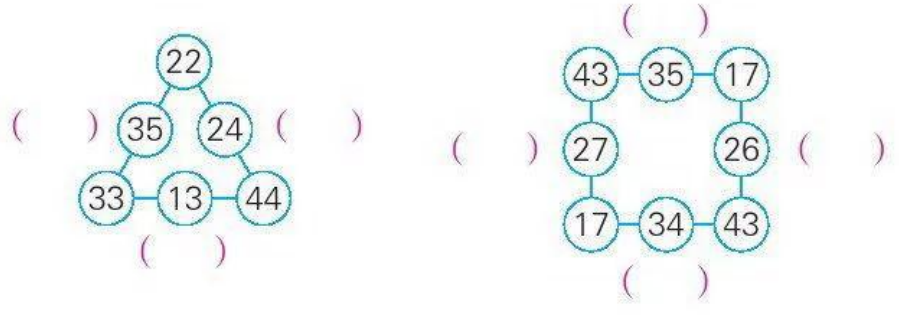

4. 小华在鸡舍里拾鸡蛋。

第一天	第二天	第三天
28 个	25 个	37 个

三天一共拾了多少个？



微信公众号：电子课本大全

3





要让两串彩珠同样多，你有什么办法？先用圆片摆一摆，再和同学交流。

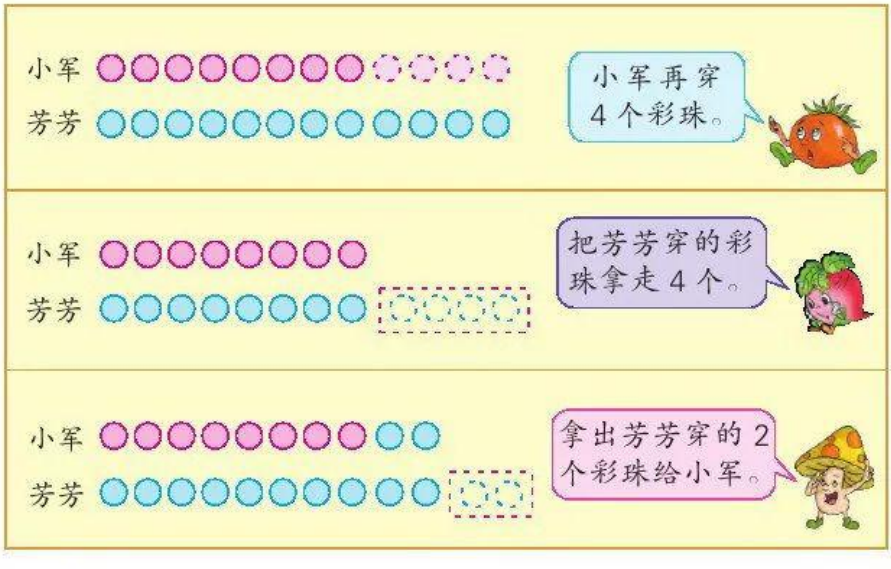



回顾解决问题的过程，你有什么体会？



微信公众号：电子课本大全

想想做做

1.





第一行摆 15 根小棒，第二行摆 9 根。

(1) 第一行拿走(　　)根小棒，就和第二行同样多。

(2) 第二行添上(　　)根小棒，就和第一行同样多。

(3) 从第一行拿(　　)根摆到第二行，两行小棒就同样多。

2. 看图填空。

(1)

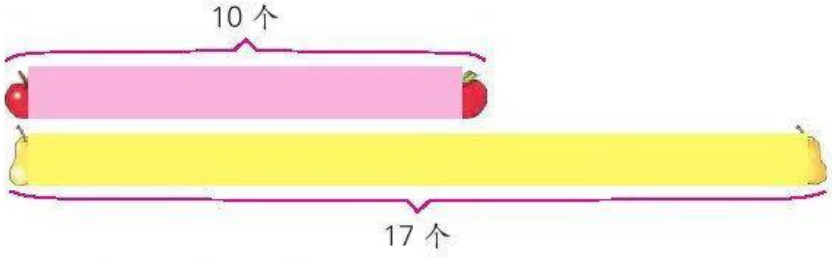

梨比苹果多(　　)个。

梨拿走(　　)个就和苹果同样多。

苹果添上(　　)个就和梨同样多。

(2)



大力比明明少(　　)枚邮票。

明明送给大力(　　)枚后，两人的邮票枚数同样多。

微信公众号：电子课本大全

3.


18 只


35 只


26 只

(1) 一共养了多少只鸡?

□ ○ □ = □ (　　)

(2) 卖掉多少只鸡后，鸡和鸭同样多?

□ ○ □ = □ (　　)

4. 学校大门的左边摆了 25 盆花，右边摆了 17 盆花。

(1) 左边比右边多摆了多少盆?

□ ○ □ = □ (　　)

(2) 要让学校大门两边花的盆数同样多，可以怎样做?(口答)

4



微信公众号：电子课本大全

(1) 小华做了多少朵?



先用圆片摆一摆，再想想怎样解答。

小英 ○○○○○○○○○○

小华

□○□=□(　　)



根据解答的结果算一算，小华是不是比小英多做了 3 朵?

(2) 小平做了多少朵?

先用圆片摆一摆，再解答。



□○□=□(　　)

想想做做

1. 先画一画，再解答。

(1) 在横线上画 △，比 ○ 多 2 个，△ 有(　　)个。

○○○○○

□○□=□

(2) 在横线上画 □，比 ○ 少 2 个，□ 有(　　)个。

○○○○○

□○□=□

微信公众号：电子课本大全

2. 看图列式解答。

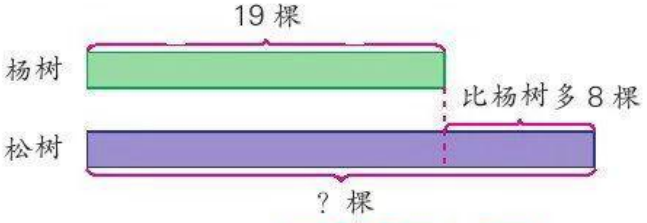

□ ○ □ = □ (　　)

3.

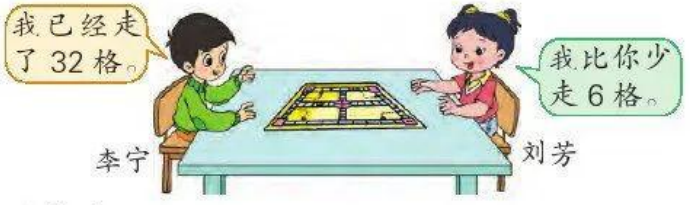

刘芳走了多少格?

□ ○ □ = □ (　　)

4.



灰兔拔了多少个?

□ ○ □ = □ (　　)

5.



□ ○ □ = □ (　　)

微信公众号：电子课本大全

练习二

1. 64 + 8 + 17　　92 − 6 − 42　　56 − 9 + 40

2. 18 $\xrightarrow{+9}$ □ $\xrightarrow{+9}$ □ $\xrightarrow{+9}$ □ $\xrightarrow{+9}$ □ $\xrightarrow{+9}$ □

   42 $\xrightarrow{-7}$ □ $\xrightarrow{-7}$ □ $\xrightarrow{-7}$ □ $\xrightarrow{-7}$ □ $\xrightarrow{-7}$ □

   □ $\xrightarrow{-5}$ □ $\xrightarrow{-5}$ □ $\xrightarrow{-5}$ □ $\xrightarrow{-5}$ □ $\xrightarrow{-5}$ 35

3. 

   做了多少面红旗，多少面绿旗？

4. 

   小军最多拍了多少下？小强最少拍了多少下？

5. 星海小学二年级参加三项体育活动的人数如下：

		
32 人	40 人	25 人

   (1) 参加三项活动的一共有多少人？

   (2) 你还能提出哪些问题？

微信公众号：电子课本大全

二 平行四边形的初步认识

1 下面是我国古代建筑上一种常见的窗格图案。你能从中找出边数相同的图形吗？在图中描一描。

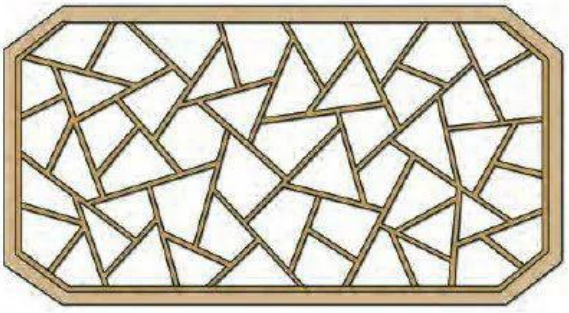

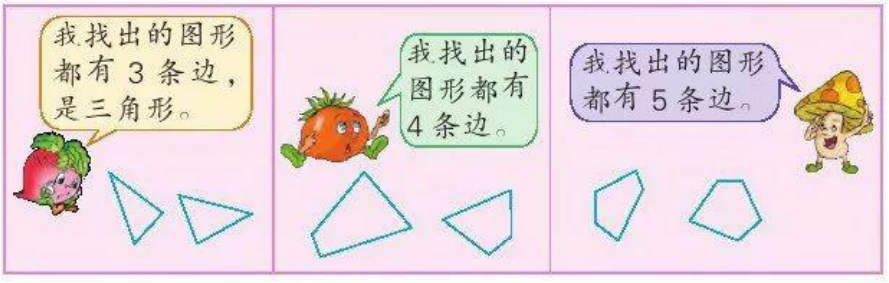

像这样有 4 条边的图形是四边形。

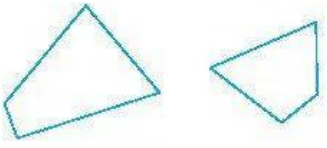

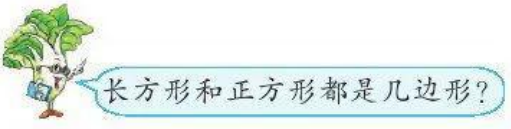

下面的图形各有几条边？是几边形呢？

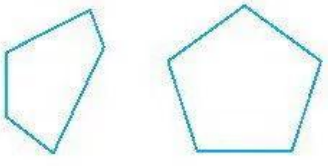

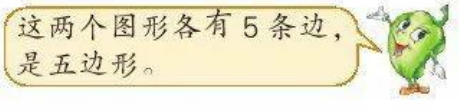

微信公众号：电子课本大全



这两个图形各有6条边，是六边形。

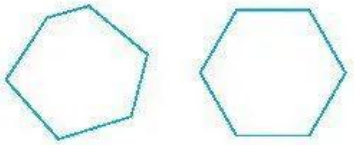

想想做做

1. 在四边形下面的（　　）里画“✓”。

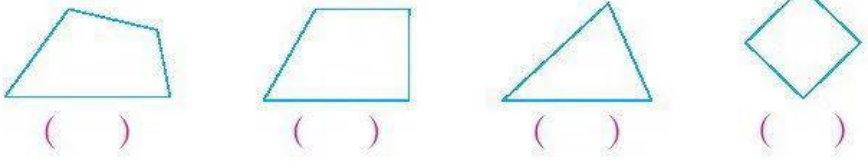

（　　）　（　　）　（　　）　（　　）

2. 钉子板上围出的各是什么图形？你能围出四边形、五边形和六边形吗？

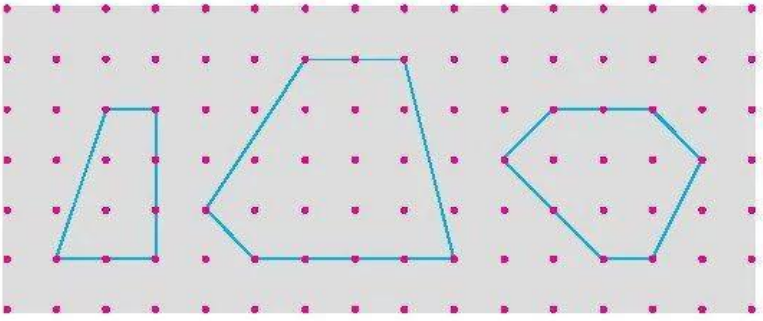

3. 数数下面的图形各有几条边，照样子写一写，再填表。

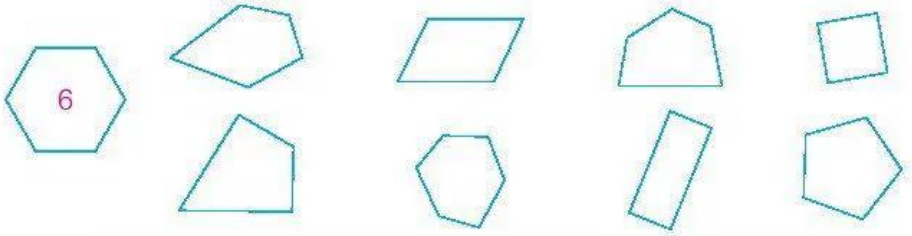

四边形	五边形	六边形
（　　）个	（　　）个	（　　）个

微信公众号：电子课本大全

4.（1）你能把一张四边形纸剪成两个三角形吗？剪成一个三角形和一个四边形呢？

（2）在一张正方形纸上剪下一个三角形，剩下的部分是什么图形？

5. 在右边的图形中，你能找出几个四边形？

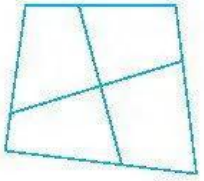

2



你在生活中见过这样的四边形吗？



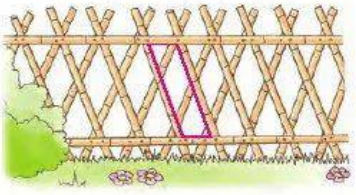





你能用两块完全一样的三角尺拼出这样的四边形吗？

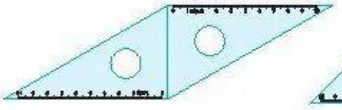

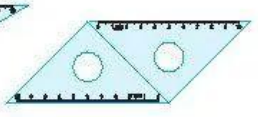

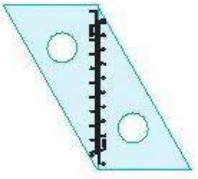

像这样的四边形是平行四边形。



微信公众号：电子课本大全

想想做做

1. 把平行四边形涂上颜色。



2. 在钉子板上围出两个不同的平行四边形。

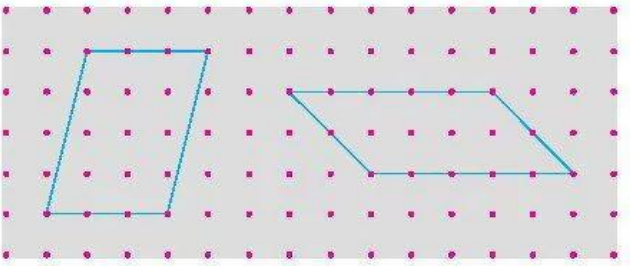

3. 你能在下面的图形中找到平行四边形吗？画一画。

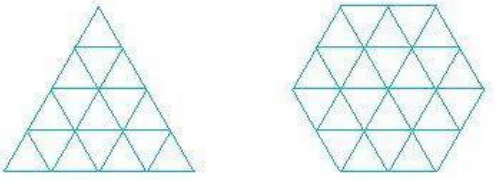

4. 你能用 6 根同样长的小棒摆出平行四边形吗？



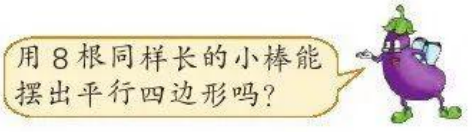

5. 照样子用 4 根木条钉一个长方形框，再拉一拉，你有什么发现？

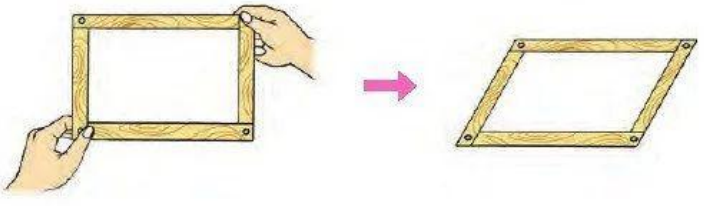

微信公众号：电子课本大全

练习三

1. 用一张长方形纸依次折一折。

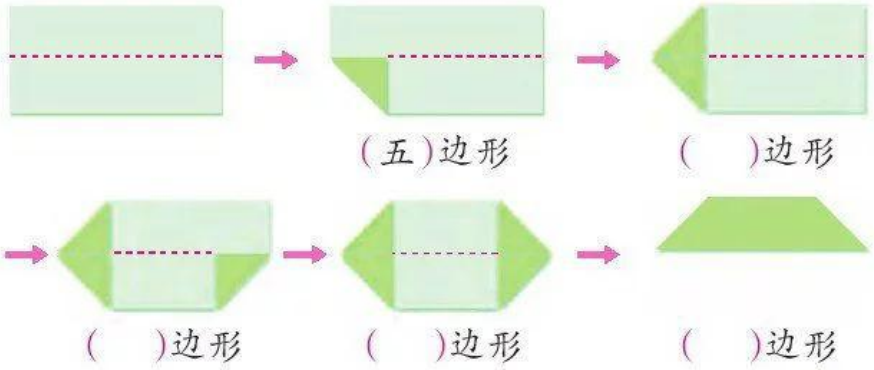

2. 下面的图形各可以分成几个三角形？

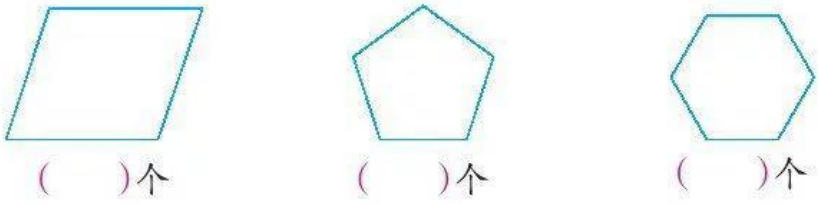

3. 剪两个完全一样的三角形，再用它们拼成平行四边形。

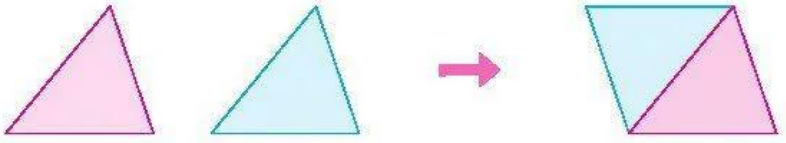



微信公众号：电子课本大全

4. 下面围出的是平行四边形吗？怎样改，能变成平行四边形？

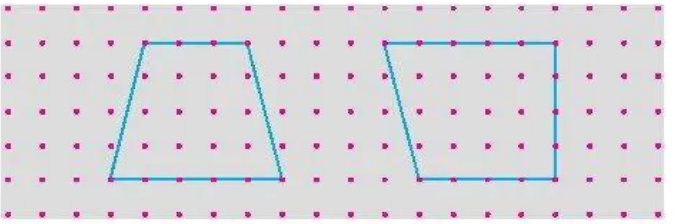

5. 折一折，剪一剪，拼一拼。

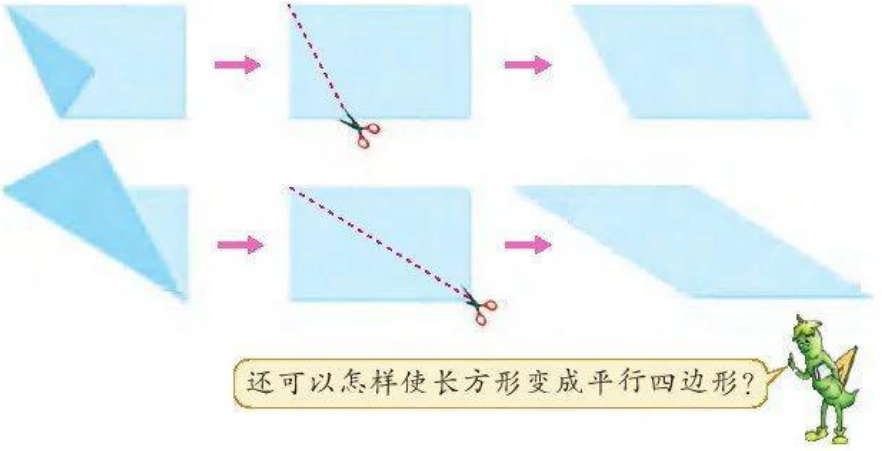

6. 用下面的 3 个图形能拼成不同的平行四边形吗？试着拼一拼。

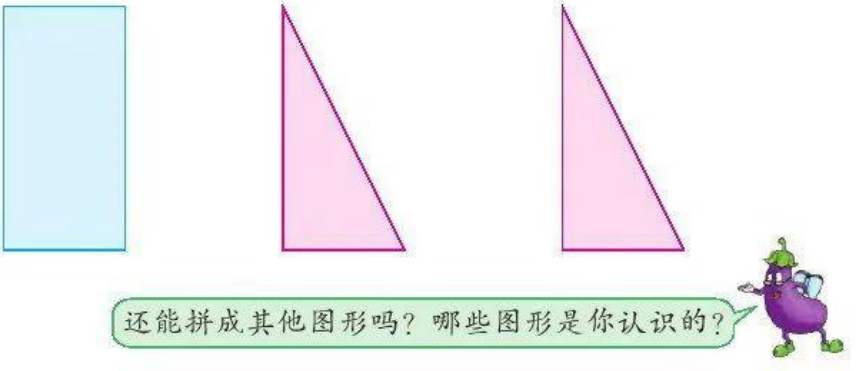

微信公众号：电子课本大全

有趣的七巧板

比比想想

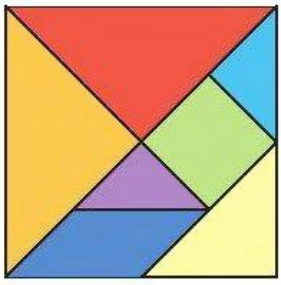

一副七巧板有几块？有几种不同的图形？哪几块的形状和大小完全相同？

想想拼拼

你能用七巧板拼出已经认识的图形吗？

我选 2 块，拼出了三角形和四边形。

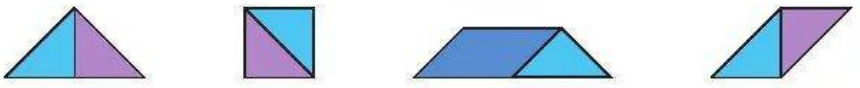

选 3 块能拼出更多的图形。

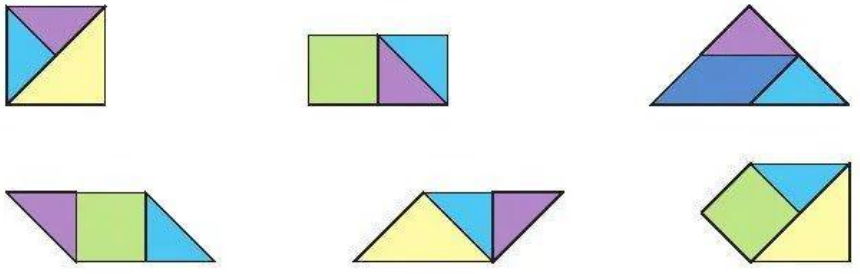

微信公众号：电子课本大全



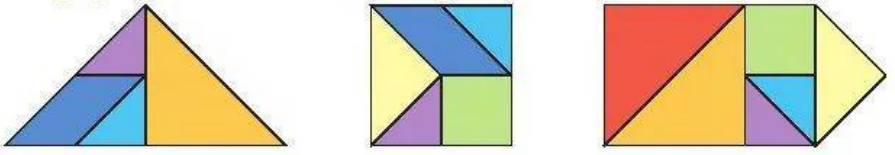

你是用哪几块拼的？和同学交流。

拼拼说说

下面都是用一副七巧板拼成的图形，分别像什么？你能照样子拼一拼吗？

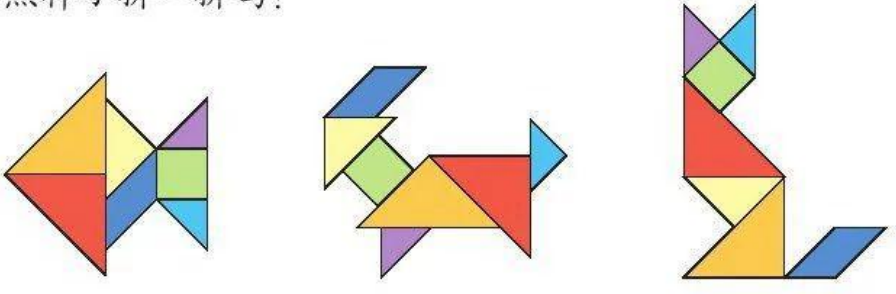

你还能用七巧板拼出哪些图形？把拼出的图形贴在教室里，大家共同欣赏。

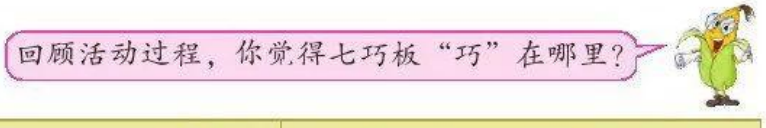

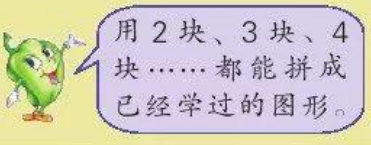

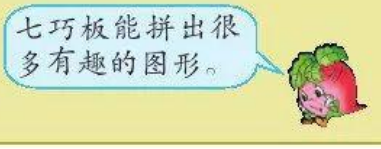

你知道吗

七巧板是我国一种传统的智力玩具，用它可以拼出千变万化的图形，也称“七巧图”。七巧板流传到国外后，引起了很多人的兴趣，被称作“唐图”。

微信公众号：电子课本大全

表内乘法(一)

1





兔有多少只，怎样计算？鸡有多少只呢？

2 + 2 + 2 = 6(只)	3 + 3 + 3 + 3 = 12(只)
	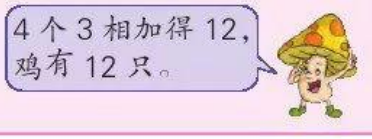

试一试

摆一摆，填一填。



□ + □ + □ + □ + □ = □

(　　)个(　　)相加得(　　)。

微信公众号：电子课本大全

2

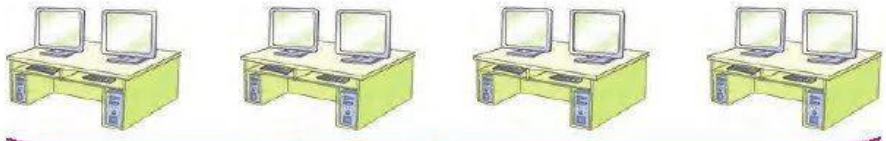

? 台



你能数一数、填一填吗?

(　　)个(　　)相加。

□+□+□+□=□

4 个 2 相加，还可以用乘法计算，写成：

4 × 2 = 8　或　2 × 4 = 8

乘号　　乘数　乘数　积

4×2 读作：4 乘 2，2×4 读作：2 乘 4。

试一试



? 只

(　　)个(　　)相加。

加法算式：_____

乘法算式：□×□=□ 或 □×□=□

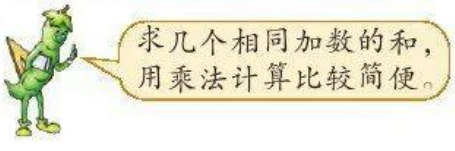

微信公众号：电子课本大全

想想做做

1.



(　　)个(　　)颗

加法算式：

_____

乘法算式：

□×□=□

或 □×□=□



(　　)个(　　)朵

加法算式：

_____

乘法算式：

□×□=□

或 □×□=□

2. 先用●摆一摆，再写出算式。

(1) 每堆摆 3 个，摆 4 堆。

加法算式：_____

乘法算式：□×□=□ 或 □×□=□

(2) 每堆摆 4 个，摆 3 堆。

加法算式：_____

乘法算式：□×□=□ 或 □×□=□



还能摆出几个几？先摆一摆，再说出乘法算式。

3. 读乘法算式，再说出乘数和积。

4×4=16　　5×6=30　　6×5=30

4. 2 乘 6 写作_____，6 乘 2 写作_____。

微信公众号：电子课本大全

练习四

1. 摆一摆。

2 个 3　　5 个 2　　2 个 5



2.

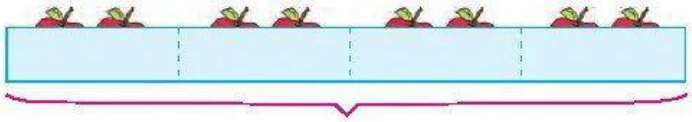

? 个

加法算式：＿＿＿＿＿＿＿＿

乘法算式：□×□=□ 或 □×□=□

3.

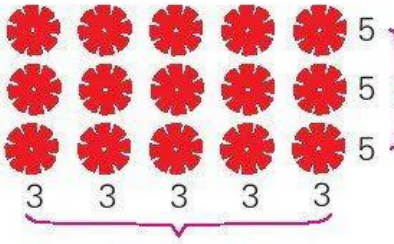

5
5
5

3　3　3　3　3

(　　)个(　　)相加

□+□+□+□+□=□

□×□ 或 □×□

(　　)个(　　)相加

□+□+□=□

□×□ 或 □×□

观察写出的算式，你有什么发现？



4.

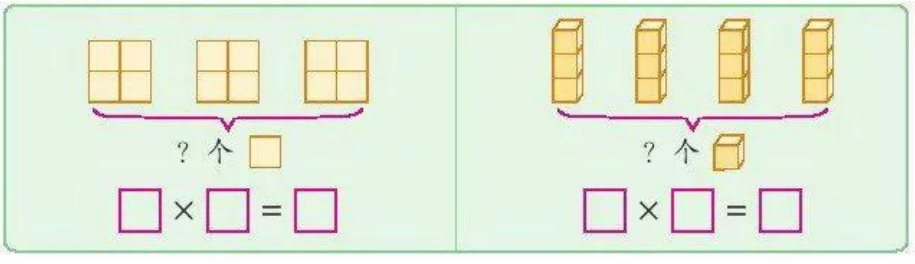

? 个 □

□×□=□

? 个

□×□=□

微信公众号：电子课本大全

5. 写出乘法算式，再读一读。

2 个 4 相加＿＿＿＿＿＿　　5 乘 6＿＿＿＿＿＿

6. 把加法算式改写成乘法算式。

5 + 5 + 5 + 5 = □○□

2 + 2 + 2 + 2 + 2 + 2 = □○□

7. (1)

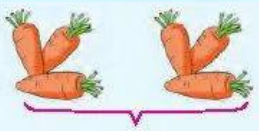

每堆有(　　)根，
有(　　)堆，
一共有＿＿根。

□ × □ = □

(2)



每盘有(　　)个，
有(　　)盘，
一共有＿＿个。

□ × □ = □

8.





你能列出几道乘法算式？

微信公众号：电子课本大全

3



1 个  坐 2 人，2 个  坐 4 人。

1 个 2　　$1 \times 2 = 2$

2 个 2 相加　　$2 \times 2 = 4$

一二得二
二二得四

想一想：$2 \times 1 = \square$

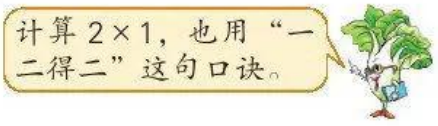

4



1 只  坐 3 人，2 只  坐 6 人，

3 只  坐(　　)人。

1 个 3　　$1 \times 3 = 3$

2 个 3 相加　　$2 \times 3 = 6$

3 个 3 相加　　$3 \times 3 = 9$

一三得三
二三得六
三三得九

想一想：$3 \times 1 = \square$　　$3 \times 2 = \square$

微信公众号：电子课本大全

5



每节车厢坐 4 人，2 节车厢坐多少人？3 节、4 节车厢呢？



算一算，填在表里。

车厢的节数	1	2	3	4
人　数	4	8	12	

可以编出 4 的乘法口诀。

1 个 4	1 × 4 = 4	一四得四
2 个 4 相加	2 × 4 = 8	二四得八
3 个 4 相加	3 × 4 = 12	三四十二
4 个 4 相加	4 × 4 = □	四四(　　)

想一想：4 × 1 = □　　4 × 2 = □　　4 × 3 = □

试一试

1 × 1 = □

一一得(　　)

微信公众号：电子课本大全

想想做做

1. 先用 | 摆一摆，再填空。

3 + 3 = 2 × 3 = □　　口诀：二三得(　　)

2 + 2 = □ × □ = □　　二二得(　　)

4 + 4 + 4 = □ × □ = □　　三四(　　)

2. 看图写出两道乘法算式和一句口诀。

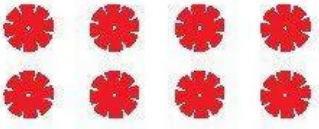

_____

_____

口诀：(　　)

3.

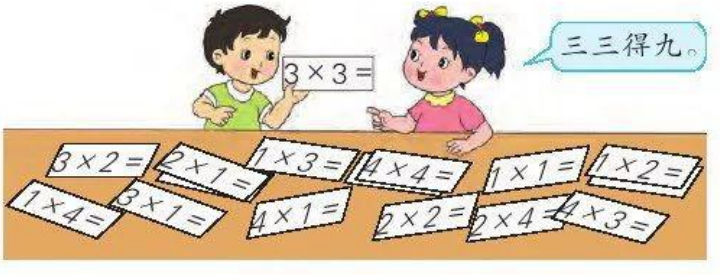

4. 说口诀，填得数。

2 × 1 = 2　　2 × 4 = □　　3 × 3 = □

3 × 2 = □　　3 × 4 = □　　1 × 4 = □



5.



□ × □ = □ (盒)

微信公众号：电子课本大全

练习五

1. 背出 1~4 的乘法口诀。

2.

2×4=	1×3=	4×3=	2×2=
1×2=	3×4=	1×4=	2×3=
4×4=	3×2=	3×3=	4×2=

3.

4×1=	2×2=	3×2=	4×4=
4+1=	2+2=	3+2=	4+4=

4. 3×□=□　　□×4=□　　□×□=4

5.



(1) 坐的一共有多少人?

□×□=□(　　)

(2) 你还能提出哪些用乘法计算的问题?





1

1×1



4

2×2



9

3×3

(　　)

(　　)×(　　)

微信公众号：电子课本大全

6



每只船坐 5 人，2 只船坐多少人？3 只、4 只、5 只船呢？



船的只数	1	2	3	4	5
人　数	5	10			



1 个 5　　$1 \times 5 = 5$

2 个 5 相加　　$2 \times 5 = 10$

3 个 5 相加　　$3 \times 5 =$ □

4 个 5 相加　　$4 \times 5 =$ □

5 个 5 相加　　$5 \times 5 =$ □

一五得五

二五一十

三五(　　)

四五(　　)

五五(　　)

想一想：$5 \times 1 =$ □　　$5 \times 2 =$ □

$5 \times 3 =$ □　　$5 \times 4 =$ □

微信公众号：电子课本大全

想想做做

1.



2.



10 ☐ ☐

3. $5\times3=$ $2\times5=$ $5\times4=$ $1\times5=$

$5\times1=$ $4\times5=$ $3\times5=$ $5\times5=$

4.

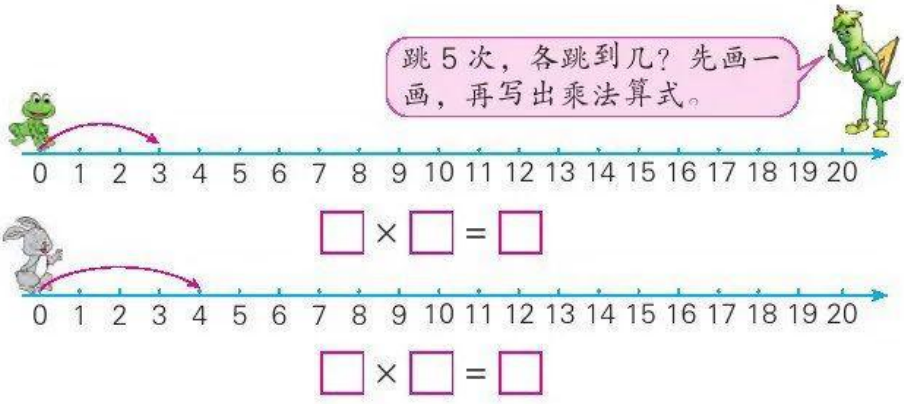

5.



(1) 跳绳的有多少人？ ☐×☐=☐（ ）

(2) 跳绳和拍球的一共有多少人？ ☐+☐=☐（ ）

微信公众号：电子课本大全

7





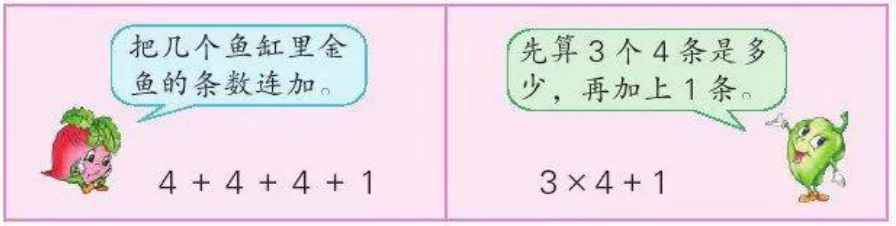

$3 \times 4 + 1 = \square$

试一试

$4 \times 4 - 3 = \square$



想想做做

1.

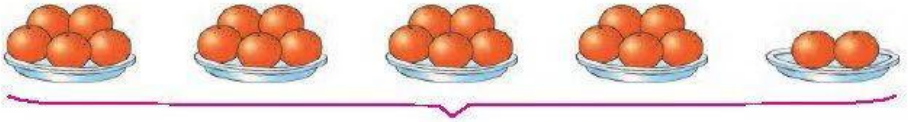

$4 \times 5 + \square = \square$

微信公众号：电子课本大全

2. 说说先算什么，再计算。

$5\times2+3=$　　$2\times4+3=$　　$3\times3-2=$

$1\times4-3=$　　$3\times2-4=$　　$4\times4+4=$

3. $2\times5+5=$　　$3\times5+5=$　　$4\times5+5=$

$3\times5=$　　$4\times5=$　　$5\times5=$

4. 



(1) 一共画了多少个○？

□×□=□（　）

(2) 一共画了多少个圆？

□×□=□（　）

(3) 接下去再画 2 个圆，一共画了多少个圆？

□×□+□=□（　）

5. 算一算，填一填。

$1\times3+1=$　　$2\times4+1=$　　$3\times5+1=$

$2\times2=$　　$3\times3=$　　□×□=



你知道吗

300 多年前，英国数学家首先提出用“×”表示相乘。后来，又有数学家提出用“·”表示相乘。

微信公众号：电子课本大全

练习六

1. 背出 1～5 的乘法口诀。

2.







3. 在○里填“>”“<”或“=”。

$2\times4\bigcirc6$　　$1\times5\bigcirc5$　　$4\times5\bigcirc25$

4.

$2\times5=$	$3\times5=$	$5\times5=$	$5\times1=$
$5\times4=$	$4\times2=$	$2\times2=$	$3\times4=$
$4\times3=$	$5+5=$	$5\times2=$	$4\times4=$

5. $3\times2+3$　　$2\times4+2$　　$5\times3-5$

$4\times3-4$　　$5\times2-2$　　$4\times5+3$

6.







7.



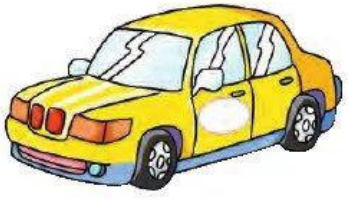

微信公众号：电子课本大全

8.



(1) 一共有多少枚邮票？

(2) 用去 7 枚后，还剩多少枚？

9. 王月抛一枚硬币，用画“正”字的方法记录每次落下后朝上的一面，结果如下表。（一画表示 1 次，一个“正”字表示 5 次）正面朝上的有多少次？反面朝上的呢？（口答）

正面朝上	正 正 正 正 丅
反面朝上	正 正 正 下

10.



你能提出哪些用乘法计算的问题？

找规律填数。



微信公众号：电子课本大全

8



每次可以坐 6 人，2 次可以坐多少人？3 次、4 次、5 次、6 次呢？

坐的次数	1	2	3	4	5	6
人　数	6	12				



1 个 6	1 × 6 = 6	一六得六
2 个 6 相加	2 × 6 = 12	二六十二
3 个 6 相加	3 × 6 = □	三六(　　)
4 个 6 相加	4 × 6 = □	四六(　　)
5 个 6 相加	5 × 6 = □	五六(　　)
6 个 6 相加	6 × 6 = □	六六(　　)

想一想：6 × 2 = □　　6 × 5 = □

微信公众号：电子课本大全

想想做做

1. $2\times6+6=$　　$3\times6+6=$　　$4\times6+6=$

   $3\times6=$　　$4\times6=$　　$5\times6=$

2. 4个6比3个6多(　　)，比5个6少(　　)。

3. $3\times6=$　　$4\times6=$　　$1\times6=$

   $6\times3=$　　$6\times4=$　　$6\times1=$

   三六(　　)　　(　　)　　(　　)

4. $6\times2=$　　$3\times6=$　　$6\times4=$

   $4\times6=$　　$6\times6=$　　$5\times6=$

   $6\times5=$　　$6\times3=$　　$1\times6=$

5. 列出乘法算式并算出得数。

   (1) 6个2连加的和是多少？ □○□=□

   (2) 两个乘数都是6，积是多少？ □○□=□

6. 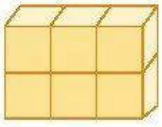

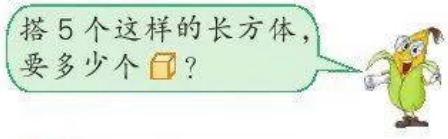

□○□=□(　　)

7. 妈妈买了3块蛋糕，每块6元，买蛋糕用去多少元？

□○□=□(　　)

买巧克力比买蛋糕多用5元，买巧克力用去多少元？

□○□=□(　　)

微信公众号：电子课本大全

练习七

1. 背出 1～6 的乘法口诀。

2.



3.

3×2	6×2	3×4	6×5
6×4	1×6	6×1	2×3
4×3	4×6	5×6	2×6

4. 不计算，在每组得数大的算式后面画“✓”。

6×3 ☐	5×6 ☐	4×5 ☐	5×3 ☐
6×2 ☐	6×6 ☐	6×4 ☐	3×4 ☐

5.

3×6=	6×4=	3×5=	3×3=
5×1=	5×6=	5×2=	6×5=
4×6=	4×4=	6×6=	2×6=

6. 一辆  坐 5 人，6 辆  可以坐多少人？

微信公众号：电子课本大全

7.



8. $2\times(\quad)=6$　　$(\quad)\times3=15$　　$(\quad)\times5=20$

$(\quad)\times4=16$　　$3\times(\quad)=12$　　$6\times(\quad)=18$

9.



□○□=□　　□○□=□

10.



一共做了多少个沙袋？做了多少个毽子？

11.

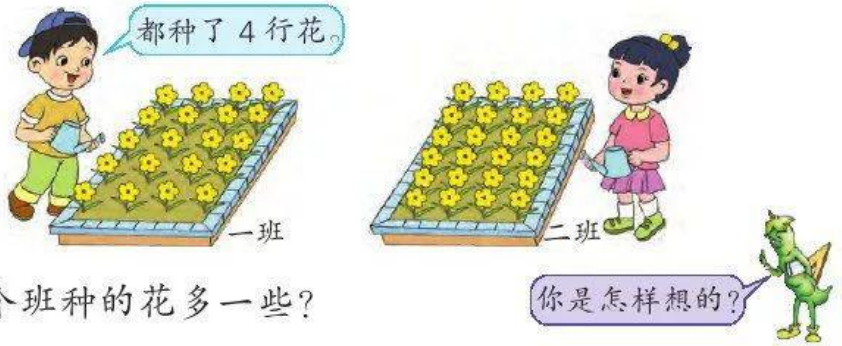

哪个班种的花多一些？

微信公众号：电子课本大全

复　习

1.（1）



□×□=□

□×□=□

（2）6+6+6+6+6=□×□

2.

一一得一					
一二得二	二二得四				
一三得三	二三得六	三三得九			
一四得四	二四得八		四四十六		
一五得五		三五十五	四五二十	五五二十五	
一六得六	二六十二	三六十八			六六三十六

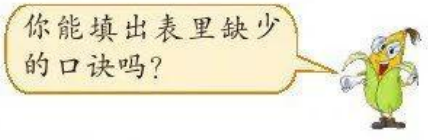

（1）横着看，乘法口诀是怎样排列的？竖着看呢？

（2）哪些口诀只能算一道乘法算式？哪些口诀能算两道乘法算式？任意找一句口诀，说出乘法算式。

3.



微信公众号：电子课本大全

4.

3 × 5 =	5 × 6 =	6 × 4 =	3 × 2 =
5 × 4 =	5 × 5 =	4 − 4 =	5 × 2 =
1 × 5 =	4 + 6 =	3 × 4 =	2 × 4 =

5. 在○里填“+”“−”或“×”。

2 ○ 6 = 12　　4 ○ 2 = 2　　3 ○ 3 = 6

6. 你能说出几道算式？

4 × □ = □　　□ × 5 = □　　6 × □ = □

7.



8. 6 × 3 − 5　　6 × 6 + 5　　4 × 4 − 7

9.

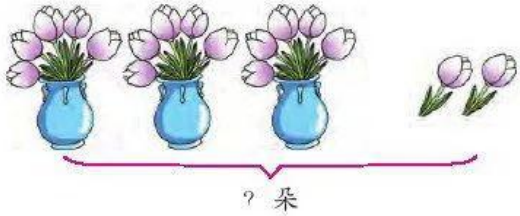

□ ○ □ ○ □ = □

微信公众号：电子课本大全

10.



11. 每本笔记本4元。

(1) 小红买了3本笔记本，一共要付多少元？她付出15元，应找回多少元？

(2) 小军要买6本笔记本，他带20元够吗？

12.



你能提出哪些用乘法计算的问题？



用棋子在棋盘上摆正方形，正方形的4条边上都有2枚棋子，要用多少枚棋子？4条边上都有6枚棋子呢？



微信公众号：电子课本大全

四 表内除法(一)

1 把🌰🌰🌰🌰🌰🌰分成两堆，可以怎样分？先用圆片分一分，再和同学交流。

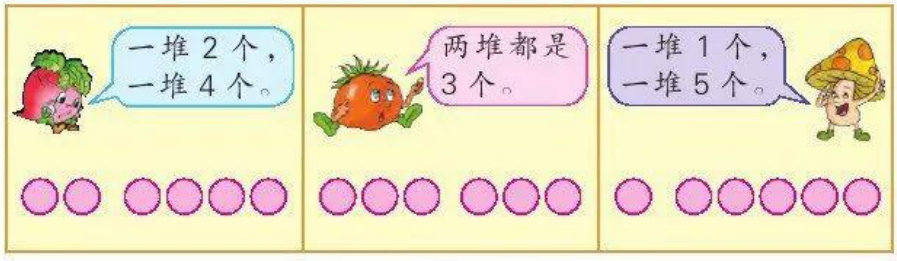

每份分得同样多，叫作平均分。



2 有 8 个桃，每个小朋友分 2 个，可以分给几个小朋友？





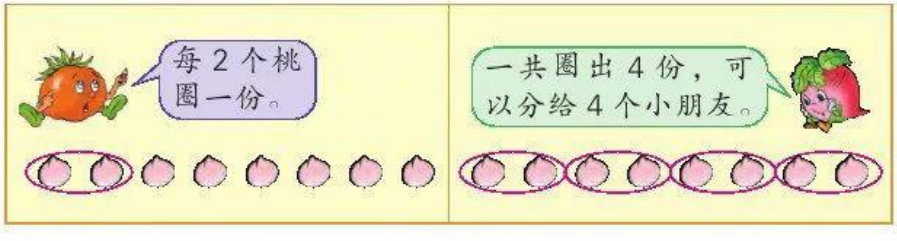

8 个🌰，每人分 2 个，可以分给(　　)人。

微信公众号：电子课本大全

试一试

12 根 ，每 2 根一份，可以分成几份？每 3 根、4根一份呢？先分一分，再说一说。

想想做做

1. 下面哪种分法是平均分？





2. 先圈一圈，再填空。

(1) 

10 块 ，每 2 块一份，分成了(　　)份。

(2) 

9 块 ，每 3 块一份，分成了(　　)份。

(3) 

15 块 ，每 5 块一份，分成了(　　)份。

3. 



15 个 ，每人分 3 个，可以分给(　　)人。

微信公众号：电子课本大全

3 把 8 个桃平均分给 2 个小朋友，每个小朋友分几个？



8 个，平均分给 2 人，每人分得(　　)个。

试一试

把 12 根 平均分成 2 份，每份几根？平均分成 3 份、4 份呢？先分一分，再说一说。

想想做做

1. 先分一分，再填空。

(1)

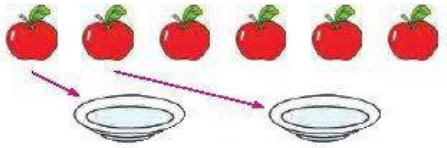

6 个苹果，平均放在 2 个盘里，每盘放(　　)个。

(2)



9 棵白菜，平均放在 3 个筐里，每筐放(　　)棵。

微信公众号：电子课本大全

2.





8根，平均分给4只兔，每只兔分得(　　)根。

3.





10个，平均分给5只松鼠，每只松鼠分得(　　)个。

4. 15个，能平均分成几份？先分一分，再说一说。



动手做

用8个相同的小正方形拼成一个长方形，你能找到不同的拼法吗？

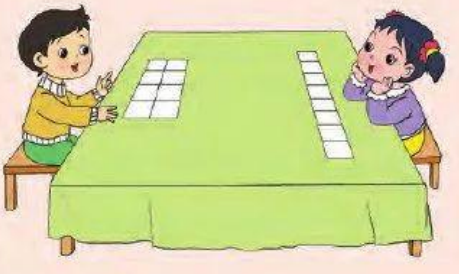

用12个、18个相同的小正方形也能拼成不同的长方形吗？先拼一拼，再和同学说说你是怎样想的。

要拼成一个正方形，最少需要多少个这样的小正方形？先说一说，再试着拼一拼。

微信公众号：电子课本大全

4



把 12 支铅笔平均分，可以怎样分？





想想做做

1. 

（1）10 个◯，每 2 个一份，分成了(　　)份。

（2）10 个◯，平均分成 5 份，每份(　　)个。

2.





（1）6 个同学拍皮球，每组 3 人，分成了(　　)组。

（2）6 个同学拍皮球，平均分成 2 组，每组(　　)人。

微信公众号：电子课本大全

3. 

(1) 8个菠萝，每(　　)个一份，分成了(　　)份。

(2) 8个菠萝，平均分成(　　)份，每份(　　)个。

4. 

(1) 有(　　)个苹果，每(　　)个放一盘，放了(　　)盘。

(2) 有(　　)个苹果，平均放在(　　)个盘里，每盘放(　　)个。

5. 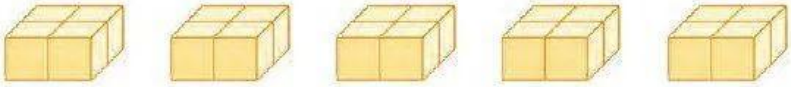

(1) 每堆有(　　)个正方体，(　　)堆一共有(　　)个。

(2) (　　)个正方体，每(　　)个一堆，摆了(　　)堆。

(3) (　　)个正方体，平均分成(　　)堆，每堆(　　)个。

6. 

微信公众号：电子课本大全

5



6 个小朋友坐 ，每车坐 2 人，要坐(　　)车。

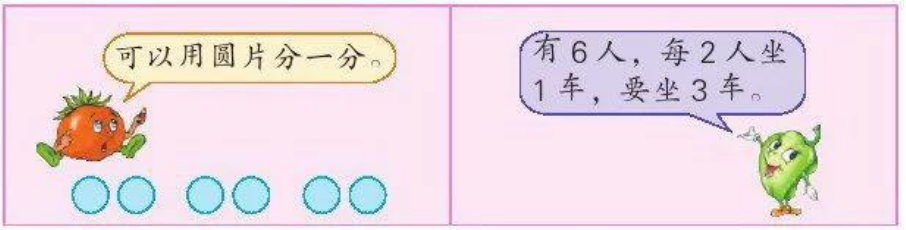

可以用除法计算，写成：

$$6 \div 2 = 3$$

除号

6 ÷ 2 读作：6 除以 2。

试一试

12 个苹果，每只小熊分 3 个，可以分给(　　)只小熊。



12 ÷ □ = □

微信公众号：电子课本大全

6



6个小朋友植树，平均分成3组，每组(　　)人。



可以用小棒分一分。



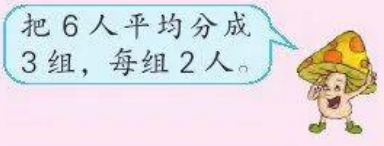

也可以用除法计算，写成：

$$\underset{\text{被除数}}{6} \div \underset{\text{除数}}{3} = \underset{\text{商}}{2}$$

试一试

把8支铅笔平均分给2个小朋友，每人分得(　　)支。



8 ÷ □ = □

微信公众号：电子课本大全

想想做做

1.

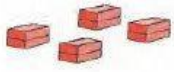



10 块砖，每次搬 2 块，(　　)次能搬完。

10 ÷ □ = □

2.





9 个南瓜，平均放在 3 个筐里，每筐放(　　)个。

9 ÷ □ = □

3.



(1) 有 15 本书，每 3 本一堆，摆成了(　　)堆。

□ ÷ □ = □

(2) 有 15 本书，平均摆成 5 堆，每堆(　　)本。

□ ÷ □ = □

4. 读除法算式，再说出被除数、除数和商。

8 ÷ 4 = 2　　15 ÷ 3 = 5　　24 ÷ 6 = 4

你知道吗

300 多年前，瑞士数学家用一条横线将两个圆点分开表示除，就有了现在的“÷”。后来，又有数学家提出用“：”表示除。

微信公众号：电子课本大全

练习八

1. 先用 | 摆一摆，再写出算式。

(1) 10 根 |，每 5 根一份，分成了(　　)份。

□ ÷ □ = □

(2) 把 10 根 | 平均分成 2 份，每份(　　)根。

□ ÷ □ = □

2. 

(1) 12 个 ，每(　　)个一份，分成了(　　)份。

□ ÷ □ = □

(2) 12 个 ，平均分成(　　)份，每份(　　)个。

□ ÷ □ = □

3. 

(1) 有(　　)根 ，每(　　)根扎一把，扎了(　　)把。

□ ÷ □ = □

(2) 有(　　)根 ，平均扎成(　　)把，每把(　　)根。

□ ○ □ = □

4. 

10 条

□ ○ □ = □

□ ○ □ = □

微信公众号：电子课本大全

5. 写出除法算式，再读一读。

(1) 被除数是 20，除数是 5，商是 4。

(2) 把 24 平均分成 4 份，每份是 6。

6. 

(1) 每个花坛栽 6 棵花，3 个花坛一共栽了(　　)棵花。

□ × □ = □

(2) 每个花坛栽 6 棵花，18 棵花栽了(　　)个花坛。

□ ÷ □ = □

(3) 3 个花坛栽了 18 棵花，平均每个花坛栽(　　)棵。

□ ÷ □ = □

7. 你能说出哪几道算式？

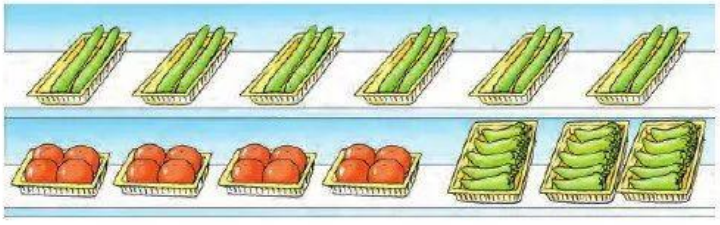

□ × □ = □　　□ ÷ □ = □

8. (　　) × 3 = 12　　(　　) × 2 = 12　　5 × (　　) = 20



在右图中画 8 个△，使每个圆圈里都有 4 个△。

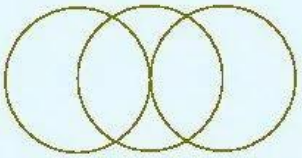

微信公众号：电子课本大全

7



8个小朋友打乒乓球，每2人一组，可以分成几组？

$8 \div 2 = ?$

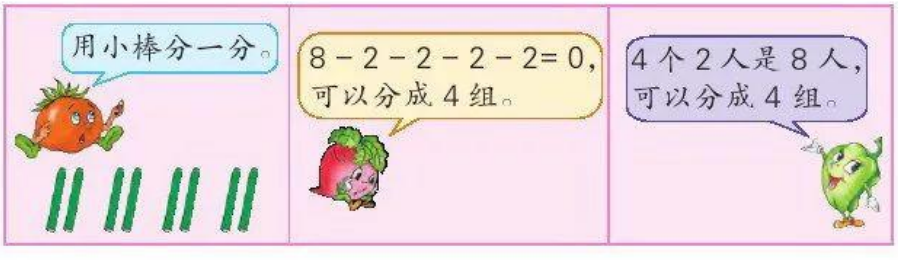

可以用乘法口诀算。

想：二(四)得八，商是4。

$8 \div 2 = 4$（组）





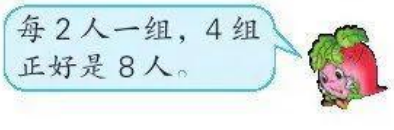

试一试

$12 \div 3 = \square$　想：三(　　)十二，商是(　　)。

$10 \div 5 = \square$　想：(　　)五一十，商是(　　)。

微信公众号：电子课本大全

想想做做

1. $3\times(\quad)=9$　　$(\quad)\times6=12$

   $9\div3=$　　$12\div6=$

   三(　　)得九　　(　　)六十二

2.

$2\times3=$	$5\times2=$	$3\times4=$
$6\div2=$	$10\div5=$	$12\div3=$
$6\div3=$	$10\div2=$	$12\div4=$

3.

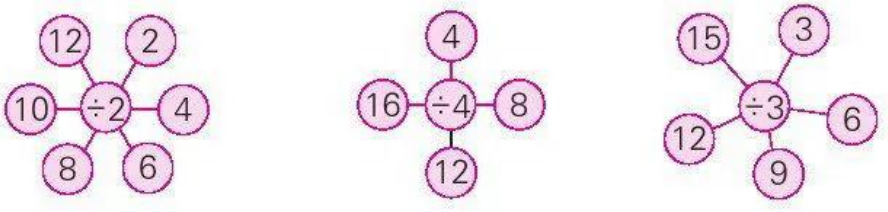

4. $4\div2=$　　$5\div5=$　　$6\div1=$　　$12\div2=$

   $8\div2=$　　$8\div4=$　　$4\div4=$　　$15\div5=$

5.



□ ○ □ = □(　　)

6.

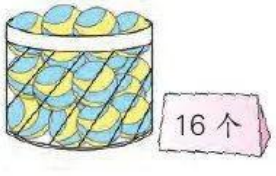

每班分 4 个，可以分给几个班?

□ ○ □ = □(　　)

微信公众号：电子课本大全



练习九

1. 读口诀，写得数。

二四得八	三五十五	四六二十四
8 ÷ 2 =	15 ÷ 3 =	24 ÷ 4 =
8 ÷ 4 =	15 ÷ 5 =	24 ÷ 6 =

2.



3.

3 × 6 =	5 × 4 =	6 × 4 =
18 ÷ 3 =	20 ÷ 5 =	24 ÷ 6 =
18 ÷ 6 =	20 ÷ 4 =	24 ÷ 4 =

4.

16 ÷ 4 =	36 ÷ 6=	30 ÷ 5 =
30 ÷ 6 =	10 ÷ 2 =	25 ÷ 5 =

5. 看图各写出一道乘法算式和两道除法算式。

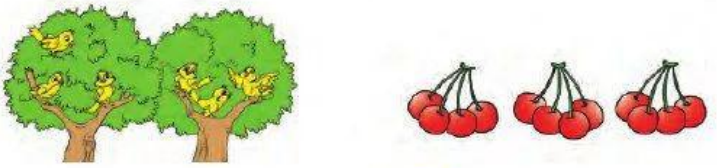

6.



(1) 每只兔分 5 根，可以分给多少只兔？

(2) 平均分给 4 只兔，每只兔分得多少根？

微信公众号：电子课本大全

7.



8. 6 个小朋友做 24 个 ，平均每个小朋友做多少个?

9.



10.

被除数	18	16	25	20	24	36	24
除　数	3	4	5	5	4	6	6
商							

11.

3 ÷ 1 =	4 × 2 =	6 × 2 =	5 × 5 =
3 × 1 =	4 ÷ 2 =	6 ÷ 2 =	5 ÷ 5 =

12.

18 ÷ 6 =	8 ÷ 4 =	12 ÷ 3 =
16 ÷ 4 =	36 ÷ 6 =	30 ÷ 5 =
18 ÷ 3 =	5 ÷ 5 =	6 ÷ 1 =
25 ÷ 5 =	15 ÷ 3 =	24 ÷ 6 =

13. 学校生物小组种了 24 盆黄菊花和 6 盆白菊花，一共种了多少盆菊花? 每班分 5 盆，可以分给几个班?

微信公众号：电子课本大全

复　习

1.



2 × 3 = □

□ ÷ □ = □

□ ÷ □ = □



□ × □ = □

□ ÷ □ = □

□ ÷ □ = □

2.



3.

9 ÷ 3 =	18 ÷ 6 =	6 ÷ 1 =
30 ÷ 5 =	12 ÷ 4 =	25 ÷ 5 =
6 × 4 =	30 − 6 =	10 ÷ 5 =
12 ÷ 2 =	36 ÷ 6 =	25 + 5 =

4. 在○里填“>”“<”或“=”。

24 ÷ 6 ○ 18	12 ÷ 3 ○ 3	18 ÷ 6 ○ 2
12 ÷ 2 ○ 6	6 ÷ 6 ○ 6	15 ÷ 5 ○ 5

5.



微信公众号：电子课本大全

6.

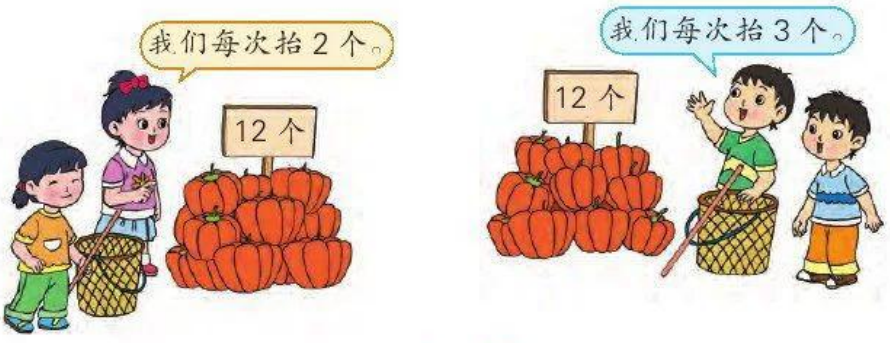

(1) 哪两人抬的次数少？(口答)

(2) 女同学一共抬了多少次？男同学呢？

7.



(1) 王阿姨要编 20 个竹篮，需要多少天？

(2) 王阿姨 3 天可以编多少个竹篮？

(3) 你还能提出什么问题？



有一堆糖，比 20 块多，比 40 块少。平均分给一些小朋友，每人分得的块数和小朋友的人数同样多。可能有多少块糖？有多少个小朋友？

微信公众号：电子课本大全

五 厘米和米

1



把线拉直，两手之间的一段可以看成线段。

线段可以用 ———— 表示。

直尺、课本的每条边都可以看成线段。



把正方形纸对折，折痕也可以看成一条线段。



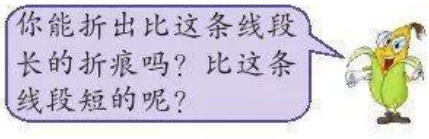

可以沿着直尺的边画线段。

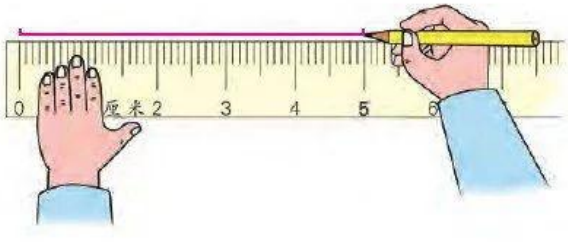

微信公众号：电子课本大全

想想做做

1. 说一说下面哪些是线段。



2. 每个图形各由几条线段围成？填在（　）里。



（　）条　　（　）条　　（　）条　　（　）条

3. 用直尺把下面的两点连成一条线段。

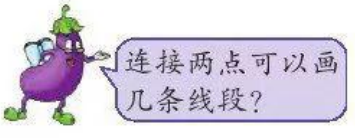

4. 在每两点之间画一条线段。

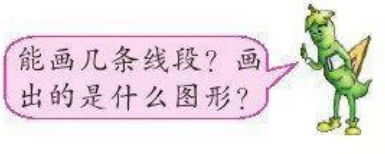

5. 在每两点之间画一条线段，能画几条？

微信公众号：电子课本大全

2 量一量课桌有多长。





要知道物体的长度，可以用尺来量。量比较短的物体的长度，可以用厘米作单位。

下面是直尺的一部分，在直尺上看看1厘米有多长。

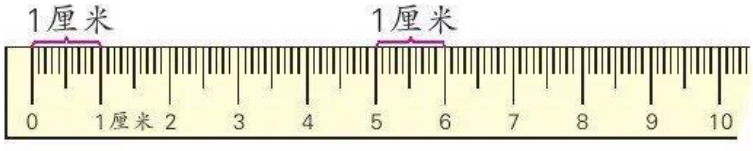

厘米可以用字母“cm”表示，1厘米可以写成1cm。

用两根手指比划1厘米大约有多长。



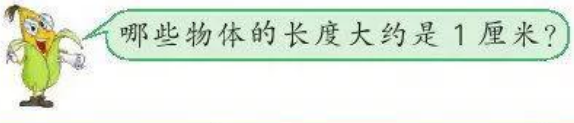



微信公众号：电子课本大全

2 厘米、5 厘米、10 厘米各有多长？在直尺上找一找，指一指。

3 量一量。



蜡笔长(　　)厘米，线段长(　　)厘米。

4 画一条长 4 厘米的线段。

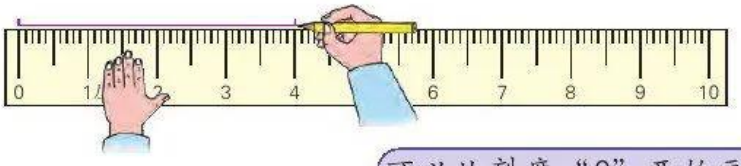

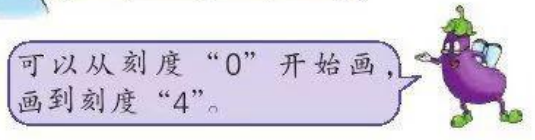

想想做做

1. 说说哪一种量法对。



2. 哪条线段长，长多少厘米？

3. 红色线段比(　　)厘米长一些，蓝色线段比(　　)厘米短一些，这两条线段的长大约都是(　　)厘米。

微信公众号：电子课本大全

4. 照样子量出自己的手掌宽和一拃长，填一填。

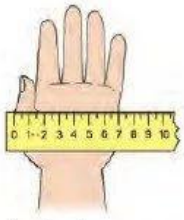

手掌宽大约

（　　）厘米

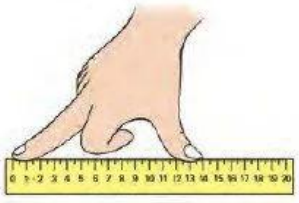

一拃长大约

（　　）厘米

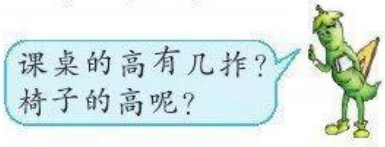

5. 量一量，填一填。



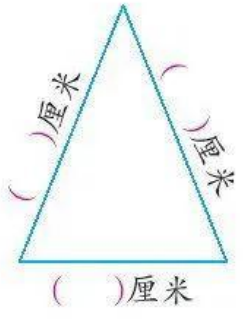

6. 下面的线段各长几厘米？

（　　）厘米　　（　　）厘米

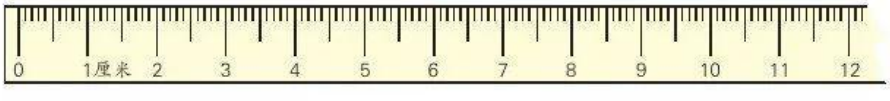

（　　）厘米



7. 画一条 7 厘米长的线段。

微信公众号：电子课本大全

5 量比较长的物体的长度，通常用米作单位。



米可以用字母“m”表示，1 米可以写成 1m。





张开两臂比划 1 米大约有多长。



在米尺上看一看，1 米有多少个 1 厘米？

1 米 = (　　) 厘米

试一试

用米尺量黑板的长，大约是多少米？

微信公众号：电子课本大全

想想做做

1. 量哪些物体的长度可以用米作单位？

2. 量出教室的门大约高几米。

3. 先估计教室的长和宽大约有多少米，再量一量。

	估　计	实　际
长	(　　)米	(　　)米
宽	(　　)米	(　　)米

4. 同桌合作，量一量，比一比。

(1) 你的身高比 1 米还多多少厘米？

(2) 量出一度(tuǒ)大约长 1 米几厘米？





5.


拔河绳


消防救生绳

一根拔河绳长 25 米，一根消防救生绳比拔河绳长 5 米。这根消防救生绳长多少米？

6.

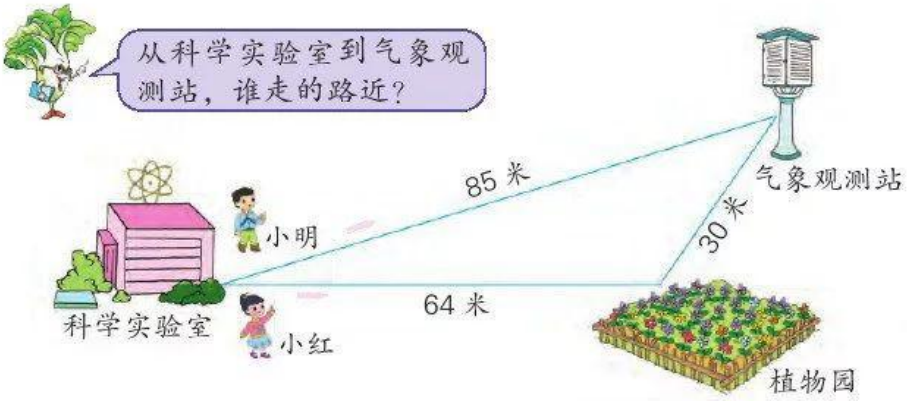

微信公众号：电子课本大全

练习十

1. 在(　　)里填“米”或“厘米”。

			
长 2(　　)	高 8(　　)	长 20(　　)	高 15(　　)

2. 在◯里填“>”“<”或“=”。

8 米◯8 厘米　　1 米◯100 厘米　　90 厘米◯1 米

3. 先估计下图中的线段哪一条长一些，再量一量，看估计得对不对。



4. 一根绳子长 60 米，用去 32 米，还剩多少米？

5.

 红红	 明明	 亮亮
身高(　　)厘米	身高(　　)厘米	身高 98 厘米

(1) 红红比亮亮矮 6 厘米，红红身高多少厘米？

(2) 明明比红红高，比亮亮矮。明明可能高多少厘米？

6.

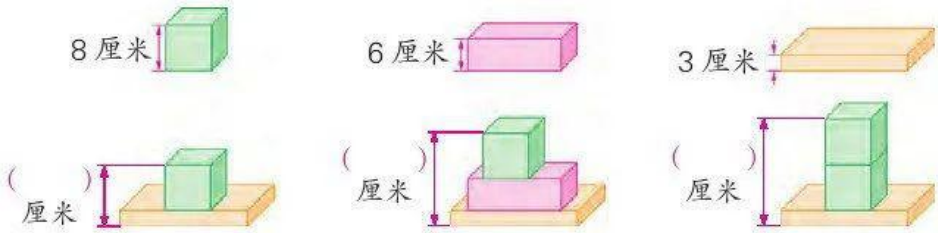

微信公众号：电子课本大全

7. 先估计，再测量，把数据记录下来。

	估　计	实　际
橡皮长	(　　)厘米	(　　)厘米
粉笔长	(　　)厘米	(　　)厘米
数学书长	(　　)厘米	(　　)厘米

动手做

拿一张长方形纸，用直尺量一量。

上面的边长(　　)厘米，下面的边长(　　)厘米。

左面的边长(　　)厘米，右面的边长(　　)厘米。

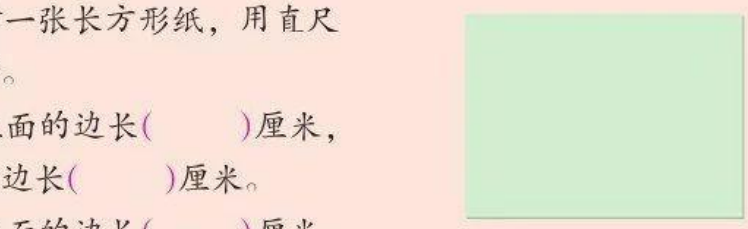



把这张纸任意折一折，再量一量折痕大约长多少厘米。

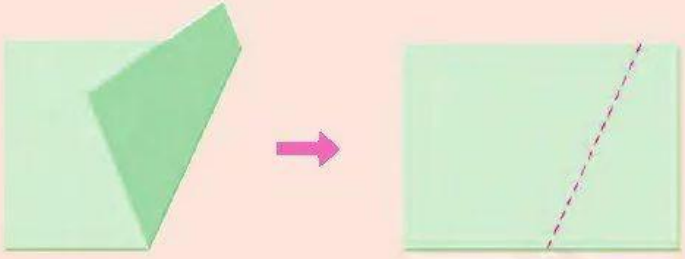

折出不同的折痕再量一量，并填写下表。

第一次	第二次	第三次
大约(　　)厘米	大约(　　)厘米	大约(　　)厘米



微信公众号：电子课本大全



认识“身体尺”

你的一拃、一步大约各是多少厘米？一度大约比 1 米多多少厘米？一脚（穿上鞋后）大约长多少厘米？先量一量，再填表。





一拃长	一步长	一度长	一脚长
（　　）厘米	（　　）厘米	1 米（　　）厘米	（　　）厘米

一拃、一步、一度、一脚，都是我们身体上的“尺”。





微信公众号：电子课本大全

用“身体尺”量





在教室或校园里选择一些物体，用“身体尺”量出它们的长度，再和同学交流。



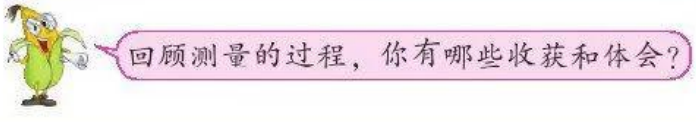



微信公众号：电子课本大全

六 表内乘法和表内除法(二)

1 摆 1 只小船用 7 个△，摆 2 只这样的小船要用几个△？摆 3 只、4 只……7 只呢？

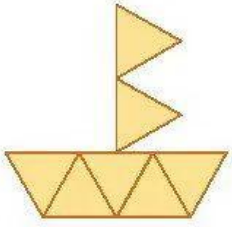

小船的只数	1	2	3	4	5	6	7
△的个数	7						



算△的个数时，你能想到什么？



如果用乘法口诀，会算得更快。

按每次算的结果，可以得出 7 的乘法口诀。



1 个 7　　1×7=7

2 个 7 相加　　2×7=□

3 个 7 相加　　3×7=□

4 个 7 相加　　4×7=□

5 个 7 相加　　5×7=□

6 个 7 相加　　6×7=□

7 个 7 相加　　7×7=□

( )七得七

二七( )

( )

( )

( )

( )

( )

想一想：

7×2=□　　7×1=□　　7×3=□

微信公众号：电子课本大全

想想做做

1. $3\times7+7=$　　$4\times7+7=$　　$5\times7+7=$

$4\times7=$　　$5\times7=$　　$6\times7=$

$7\times4=$　　$7\times5=$　　$7\times6=$

2. 6个7比5个7多(　　)，比7个7少(　　)。

3.

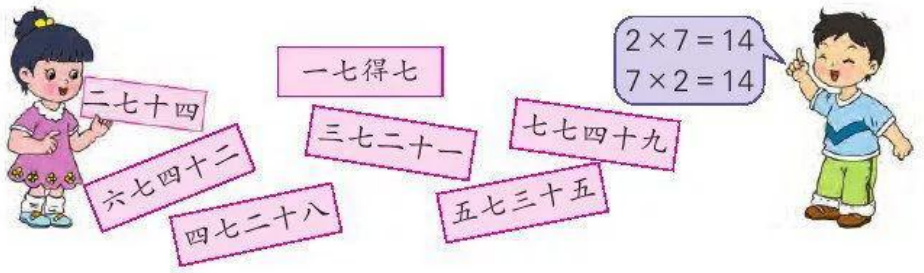

4. $3\times7=$　　$7\times7=$　　$6\times7=$　　$1\times7=$

$7\times5=$　　$2\times7=$　　$5\times7=$　　$7\times4=$

5.



□○□=□(　　)

6. 一幢楼房有7层，每层住6户，一共住多少户?

□○□=□(　　)

7. $7\times($　　$)=21$　　(　　$)\times5=35$

(　　$)\times7=28$　　$7\times($　　$)=42$

微信公众号：电子课本大全

2



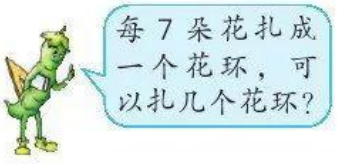



$28 \div 7 = \square$（　）

想：（　）七二十八

$28 \div 4 = \square$（　）

想：四（　）二十八

想想做做

1.

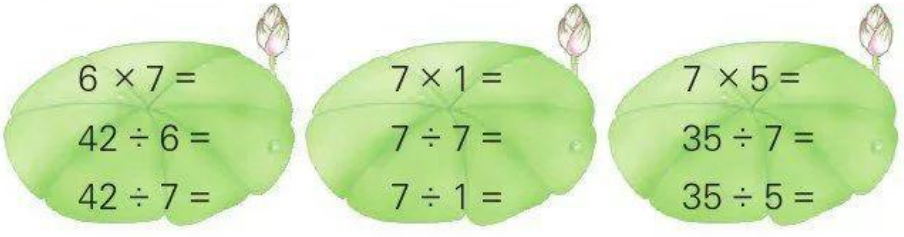

2. 根据一句 7 的乘法口诀说出两道除法算式。



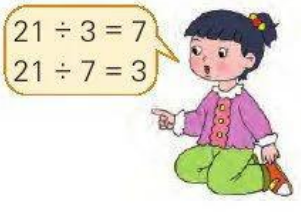

微信公众号：电子课本大全

3. $28 \div 7 =$　　$7 \div 1 =$　　$21 \div 7 =$

$14 \div 2 =$　　$42 - 7 =$　　$35 + 7 =$

$35 \div 5 =$　　$49 \div 7 =$　　$42 \div 6 =$

4.



每串穿 6 颗，一共可以穿成多少串？

□○□=□（　）



平均穿成 7 串，每串穿多少颗？

□○□=□（　）

5.







□○□=□（　）

6.



□○□=□（　）

微信公众号：电子课本大全

练习十一

1. 你能从“一一得一”背到“七七四十九”吗？

2.



3.

7 × 4 =	7 ÷ 7 =	35 ÷ 7 =
42 ÷ 6 =	24 ÷ 4 =	28 ÷ 7 =
42 − 7 =	14 ÷ 2 =	18 + 6 =
5 × 7 =	49 ÷ 7 =	21 − 7 =

4. 你能说出几道算式？

7 × □ = □　　□ ÷ □ = 7

5.

7 × 2 + 6	4 × 7 + 2	5 × 7 + 4
3 × 7 − 5	6 × 7 − 2	7 × 7 + 3

6. 算一算，比一比。

4 × 4 =	5 × 5 =	6 × 6 =
3 × 5 + 1 =	4 × 6 + 1 =	5 × 7 + 1 =

微信公众号：电子课本大全

7.



(1) 7 组小朋友做游戏，每组 4 人，一共有多少人？

(2) 28 个小朋友做游戏，每 4 人一组，可以分成几组？

(3) 28 个小朋友做游戏，平均分成 7 组，每组有几人？

8. (1)



送给幼儿园 3 个班，平均每班分得多少盆？

(2)



送给幼儿园一些后还剩 7 盆，送给幼儿园多少盆？

9. 买 1 支钢笔的钱可以买 7 支圆珠笔。妈妈带的钱正好可以买 4 支钢笔，如果买圆珠笔，可以买多少支？

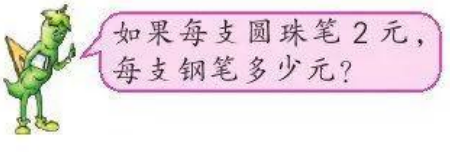

10. 有 35 个 ，摆成如右图的物体，可以摆多少个？

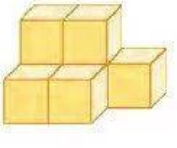

微信公众号：电子课本大全

3



摆1个大正方体要用8个小正方体，摆2个这样的大正方体要用多少个小正方体？摆3个、4个……8个呢？

的个数	1	2	3	4	5	6	7	8
的个数	8							





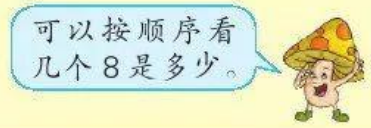

一八得八　　五八(　　)

二八(　　)　　六八(　　)

三八(　　)　　七八(　　)

四八(　　)　　八八(　　)

想一想：3×8=□　　8×5=□

想想做做

1. 4×8+8=　　5×8+8=　　6×8+8=

5×8=　　6×8=　　7×8=

8×5=　　8×6=　　8×7=

2. 7个8比6个8多(　　)，比8个8少(　　)。

微信公众号：电子课本大全

3.

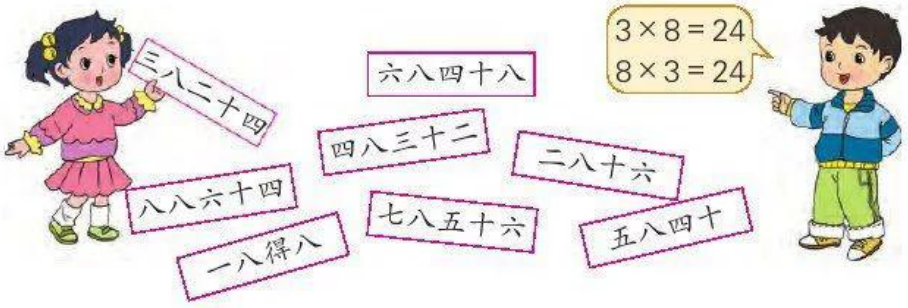

4. $8 \times 2 =$　　$4 \times 8 =$　　$8 \times 8 =$　　$2 \times 8 =$

$8 \times 6 =$　　$8 \times 7 =$　　$8 \times 4 =$　　$8 \times 3 =$

$1 \times 8 =$　　$5 \times 8 =$　　$7 \times 8 =$　　$6 \times 8 =$

5. $3 \times 8 + 4 =$　　$8 \times 5 + 2 =$　　$8 \times 8 + 6 =$

6.

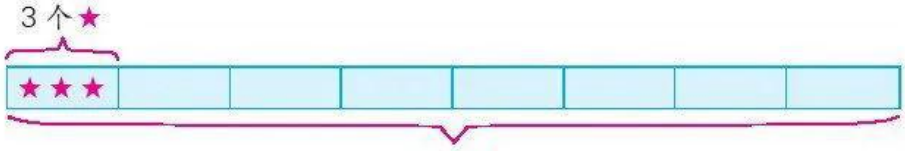

□○□=□(　　)

7. (　　) × 8 = 56　　(　　) × 6 = 48　　8 × (　　) = 40

4



把花边平均剪成2段，每段长多少厘米？平均剪成8段呢？

16 ÷ □ = □(　　)

16 ÷ □ = □(　　)

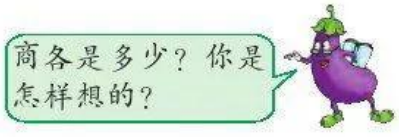

微信公众号：电子课本大全

想想做做

1. 3 × 8 =　　8 × 4 =　　7 × 8 =
   24 ÷ 3 =　　32 ÷ 8 =　　56 ÷ 7 =
   24 ÷ 8 =　　32 ÷ 4 =　　56 ÷ 8 =

2. 根据一句 8 的乘法口诀说出两道除法算式。



3. 64 ÷ 8 =　　8 ÷ 1 =　　16 ÷ 2 =
   32 ÷ 4 =　　56 ÷ 8 =　　48 ÷ 6=
   48 ÷ 8 =　　24 ÷ 3 =　　40 ÷ 5 =
   40 ÷ 8 =　　16 ÷ 8 =　　24 ÷ 8 =

4.

8 ÷ 1 =	8 ÷ 2 =	8 ÷ 4 =	8 ÷ 8 =
8 × 1 =	8 × 2 =	8 × 4 =	8 × 8 =

5.



□ ○ □ = □（　　）

微信公众号：电子课本大全

练习十二

1. 从“一一得一”背到“八八六十四”。

2.

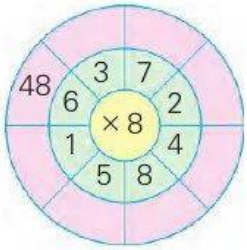

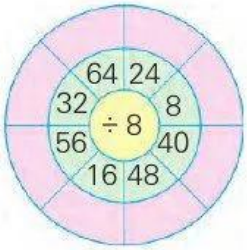

3. □ × □ = 16　　24 ÷ □ = □

4.



□ ○ □ = □

5. 17 个男同学和 15 个女同学到校外参加义务劳动，每 8 人一组。参加义务劳动的一共有多少人？一共分成了几组？

6.

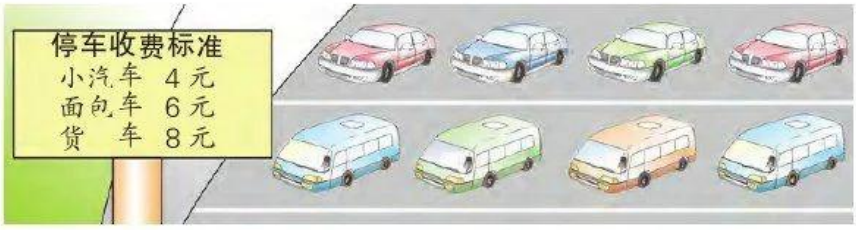

(1) 8 辆小汽车要收费多少元？

(2) 7 辆面包车要收费多少元？

(3) 你还能提出什么问题？

△ × ○ = 24

△ − ○ = 2

△ = (　　)　○ = (　　)

微信公众号：电子课本大全

5



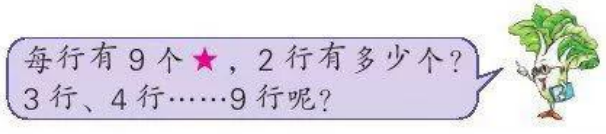

行　数	1	2	3	4	5	6	7	8	9
★的个数	9								



一九得九　　四九(　　)　　七九(　　)

二九(　　)　　五九(　　)　　八九(　　)

三九(　　)　　六九(　　)　　九九(　　)

试一试

$2 \times 9 =$　　$18 \div 2 =$

$9 \times 2 =$　　$18 \div 9 =$



微信公众号：电子课本大全

想想做做

1. 根据例 5 中的图填表，说说有什么发现。

1 个 9	比 10 少 1	9
2 个 9	比 20 少(　　)	(　　)
3 个 9	比 30 少(　　)	(　　)
4 个 9	比 40 少(　　)	(　　)
5 个 9	比 50 少(　　)	(　　)
6 个 9	比 60 少(　　)	(　　)
7 个 9	比 70 少(　　)	(　　)
8 个 9	比 80 少(　　)	(　　)
9 个 9	比 90 少(　　)	(　　)

2.

四九(　　)	五九(　　)	八九(　　)
$4 \times 9 =$	$5 \times 9 =$	$8 \times 9 =$
$9 \times 4 =$	$9 \times 5 =$	$9 \times 8 =$
$36 \div 4 =$	$45 \div 5 =$	$72 \div 8 =$
$36 \div 9 =$	$45 \div 9 =$	$72 \div 9 =$

3. $6 \times 9 =$　　$9 \times 3 =$　　$7 \times 9 =$　　$9 \times 9 =$

$54 \div 9 =$　　$27 \div 9 =$　　$63 \div 9 =$　　$81 \div 9 =$

你知道吗



用手指可以帮助记住 9 的乘法口诀。你能看懂这些手势的意思吗？试一试，很快记住 9 的乘法口诀。

微信公众号：电子课本大全

练习十三

1. 背出 9 的乘法口诀。

2.

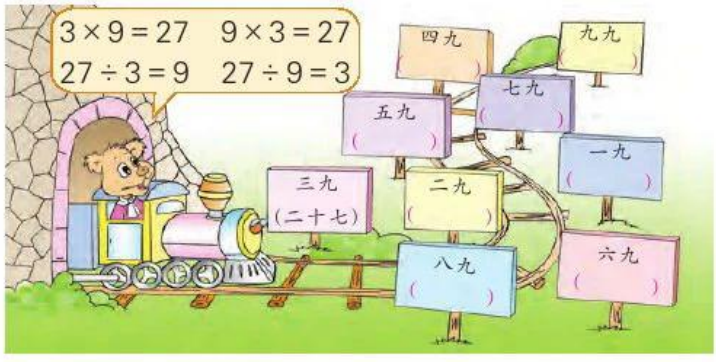

3.

27 ÷ 9	36 ÷ 9	45 ÷ 9	18 ÷ 9
72 ÷ 9	63 ÷ 9	54 ÷ 9	81 ÷ 9

4. 在 ◯ 里填“>”或“<”。

7×9 ◯ 3×9　　6×9 ◯ 8×7

5.



(1) 9 组同学在跳绳，每组 3 人，一共有多少人？

(2) 有 36 人打乒乓球，4 人一组，可以分成多少组？

(3) 18 个同学拔河，平均分成 2 队，每队有多少人？

微信公众号：电子课本大全

乘 法 口 诀 表







一一得一								
一二得二	二二得四							
一三得三	二三得六	三三得九						
一四得四	二四得八	三四十二						
一五得五	二五一十	三五十五	四五二十					
一六得六	二六十二	三六十八		五六三十				
一七得七	二七十四					七七四十九		
一八得八				五八四十				
一九得九			四九三十六					

(1) 在空格里填合适的乘法口诀。

(2) 仔细观察乘法口诀表，说一说你发现了什么，在小组里交流。

(3) 任意指一句乘法口诀，说出乘法算式和除法算式。

微信公众号：电子课本大全



1. 在空格里填两数相乘的积，看谁填得又对又快。

×	1	2	3	4	5	6	7	8	9
1	1								9
2		4						16	
3			9				21		
4				16		24			
5					25				
6									
7									
8									
9									

2.

$72 \div 9 =$	$42 \div 6 =$	$54 \div 6 =$
$7 \times 9 =$	$7 \times 4 =$	$5 \times 9 =$
$56 \div 8 =$	$27 \div 9 =$	$81 \div 9 =$
$40 \div 5 =$	$7 \times 7 =$	$32 \div 4 =$
$6 \times 3 + 2 =$	$7 \times 3 + 1 =$	$8 \times 6 - 4 =$

3. 比一比，看谁说的算式多。

□ × □ = 18　　□ × □ = 24

16 ÷ □ = □　　36 ÷ □ = □

4. 张大伯种了 8 行青椒和 6 行茄子，青椒每行有 9 棵。

(1) 一共种了多少棵青椒？

(2) 要求一共种了多少棵茄子，需要补充什么条件？

微信公众号：电子课本大全

6 $2 \times 3 \times 4 = 24$

6

$36 \div 4 \times 3 = 27$

9

试一试

$48 \div 6 \div 2 = \square$

$8 \times 3 \div 6 = \square$

想想做做

1.

$3 \times 3 = \square$

$9 \times 5 = \square$

$3 \times 3 \times 5 = \square$

$24 \div 4 = \square$

$6 \times 8 = \square$

$24 \div 4 \times 8 = \square$

$32 \div 8 = \square$

$4 \div 2 = \square$

$32 \div 8 \div 2 = \square$

2. $6 \times 3 \div 9 =$　　$2 \times 4 \times 9 =$　　$16 \div 4 \div 2 =$

$36 \div 6 \times 8 =$　　$9 \times 2 \div 6 =$　　$32 \div 4 \times 9 =$

3.

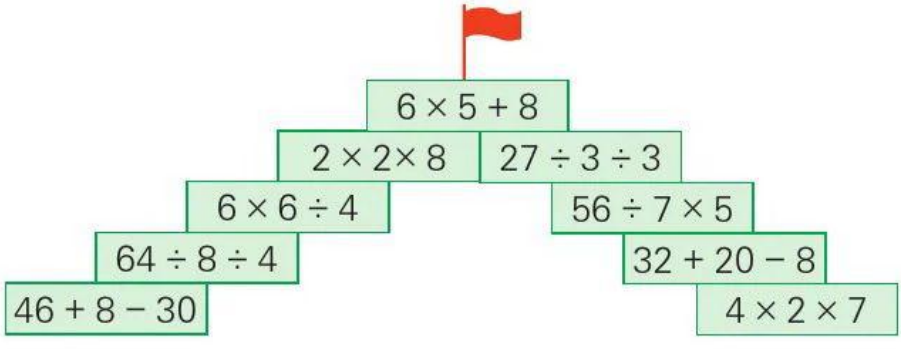

微信公众号：电子课本大全

练习十四

1. 你能背出所有的乘法口诀吗?

2.

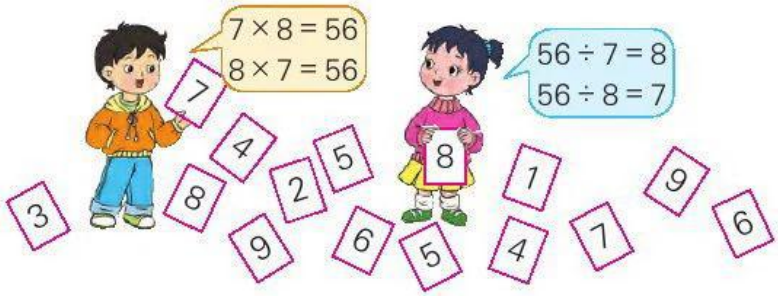

3. $81 \div 9 \div 3$　　$65 - 20 + 9$　　$45 + 9 - 7$

   $8 \times 2 \div 4$　　$12 \div 3 \times 8$　　$9 \times 6 \div 6$

4.



把 24 本书平均分给 3 个小组，每个小组分得多少本？你还能算出平均每人分得多少本吗？

5.



6. 妈妈带了 6 张 5 元的人民币去买锅，只能买哪一种？（口答）

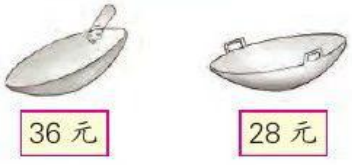

微信公众号：电子课本大全

复　习

1.

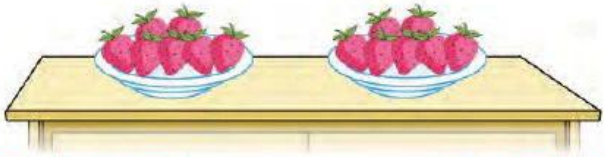

□ + □ = □　　□ ÷ □ = □

□ × □ = □　　□ ÷ □ = □

2. 根据乘法口诀各写出两道乘法算式和两道除法算式。

四七二十八　　五八四十　　六九五十四

3.

乘　数	6	7	4	5
乘　数	3	8	9	
积				35

被除数	21	48	72	36
除　数	3	8		
商			9	4

4.



1 + 3 = □　　2 × 2 = □



1 + 3 + 5 = □　　3 × 3 = □



1 + 3 + 5 + 7 = □　　4 × 4 = □

5.

81 ÷ 9 =	30 ÷ 6 =	42 ÷ 6 =
9 × 8 =	56 ÷ 8 =	27 + 9 =
27 ÷ 3 =	7 × 5 =	5 × 9 =
64 ÷ 8 =	32 − 4 =	63 ÷ 7 =
21 ÷ 7 × 6 =	72 ÷ 9 ÷ 2 =	2 × 3 × 6 =
2 × 9 ÷ 3 =	16 ÷ 8 × 7 =	3 × 8 ÷ 6 =

微信公众号：电子课本大全

6.

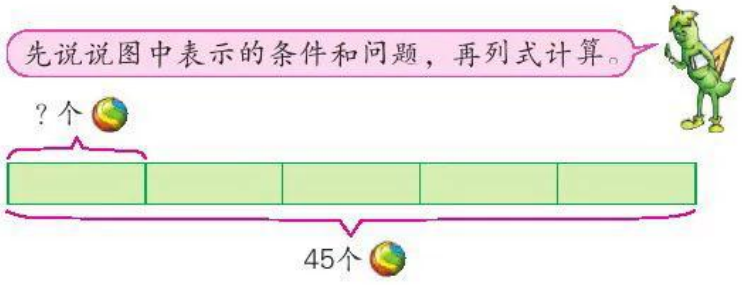

7. (1) 每个同学发 6 本练习本，8 个同学一共要发多少本？

(2) 每个同学发 6 本练习本，48 本可以发给多少个同学？

(3) 把 48 本练习本平均发给 8 个同学，每个同学发到多少本？

8.



9.



小红买一种食品，正好用去 18 元。她买的可能是什么？买了多少？

微信公众号：电子课本大全

10. 24 人到公园划船，每只大船坐 4 人，每只小船坐 3 人。选哪种船需要的只数少？你是怎样想的？

11.



（1）搬一套课桌椅要多少人？

（2）一次搬 8 套课桌椅要多少人？

（3）27 人同时搬，一次可以搬多少套？

找规律填数。



你知道吗

我国古代的乘法口诀，从“九九八十一”开始，到“二二得四”结束，只有 36 句。因为开头两个字是“九九”，所以又叫“九九歌”。

微信公众号：电子课本大全

七 观察物体

1







哪一张照片是在教室前面拍的？另一张是在教室的哪一面拍的？

2



下面这些照片分别是谁拍的？

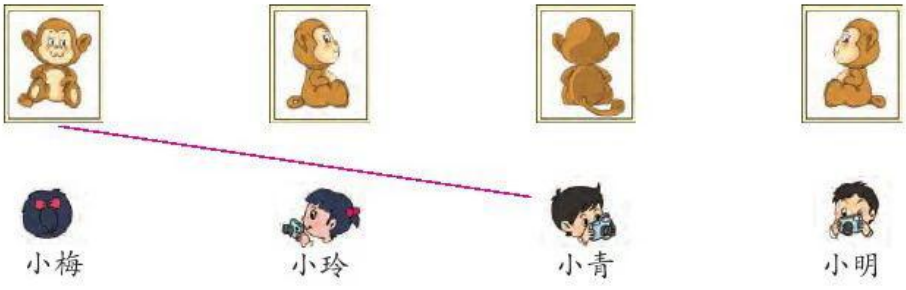

微信公众号：电子课本大全

想想做做

1. 哪一张照片是在学校外面拍的？哪一张是在学校里面拍的？





2. 右边的汽车图分别是谁看到的？连一连。





3. 四人一组，照下面的样子看飞机模型，说说你看到的是右边的哪一幅图。



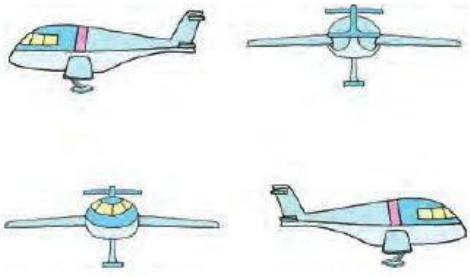



微信公众号：电子课本大全

练习十五

1. 站在教室的前面和后面分别看一看，说说有什么不同。

2. 想一想，连一连。





3. 小明准备过马路时，一辆汽车从他的面前驶过。你能按时间顺序给下面的 3 幅图编号吗？



4. 小华站在桥上，看见一只小船从远处划来。按时间顺序给下面的 3 幅图编号。

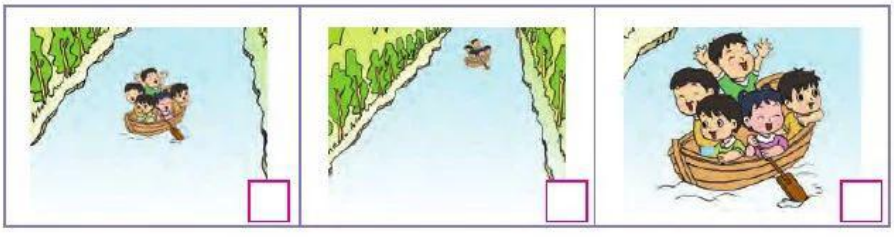

微信公众号：电子课本大全

5. 右边的图分别是谁看到的？连一连。





6. 在桌上放一个书包，再分别从四个方向看一看，每次看到的形状相同吗？

7.



下面的 4 幅图分别是谁看到的？连一连。



微信公众号：电子课本大全

八 期末复习

本学期学习的内容主要有哪些？回顾学习过程，你有什么体会？先说一说，再填写下表。



我最感兴趣的内容	
我学得最好的内容	
我觉得有困难的内容	

1. 看图写出两道乘法算式和两道除法算式。



2. (1) 背出所有的乘法口诀。

(2) 根据“七九六十三”这句口诀，写出四道算式。

3.

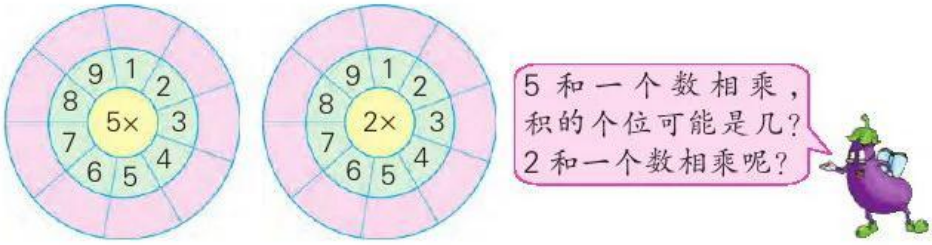

微信公众号：电子课本大全

4.

乘数	4	7	3	9	
乘数	7	5		2	3
积			24		6

被除数	45		21	36	64
除数	5	2	3		8
商		6		4	

5. $7\times8+6$　　$4\times9\div6$　　$7\times5-8$

$8\times6+2$　　$8\div4\times3$　　$9\times4+6$

6.

$7\times7=$	$24\div3=$	$4\times8=$
$36\div6=$	$3\times9=$	$42\div6=$
$8\times9=$	$16\div4=$	$24\div4=$
$6\times5=$	$56-7=$	$3\times7=$
$48+8=$	$25\div5=$	$81\div9=$
$63\div7=$	$5\times8=$	$27\div3=$

7. $36+24+35$　　$68+12-35$　　$40+36-14$

$65-27-18$　　$34-17+26$　　$25+27-30$

8. 学校体操队有男生29人，女生35人，一共有多少人？后来8人转到少年体校训练，现在体操队有多少人？

9.



微信公众号：电子课本大全

10. 用手比划 1 厘米和 1 米的长度。

11. 画一条 6 厘米长的线段。

12. 在合适答案的前面画“✓”。

（1）一棵大树的高大约是 15（　　）。

□ 厘米　　□ 米

（2）一块橡皮大约长 4（　　）。

□ 厘米　　□ 米

（3）一只蜻蜓的身长大约是（　　）厘米。

□ 8　　□ 80

（4）一只东北虎的身长大约是（　　）米。

□ 2　　□ 20

13. 数一数，填一填。

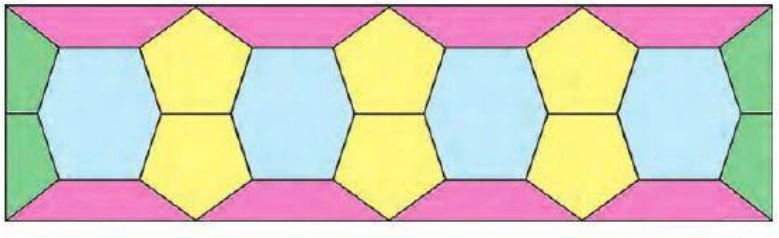

图　形	四边形	五边形	六边形
数　量	（　　）个	（　　）个	（　　）个

14. 先估计平行四边形每条边的长各是几厘米，再量一量。

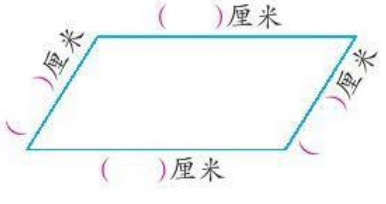

微信公众号：电子课本大全

15. 连一连。





16. 每人浇 4 棵树。



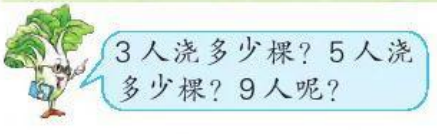

17.



18.（1）二年级有 5 个兴趣小组，每组 9 人。参加兴趣小组的一共有多少人？

（2）二年级参加兴趣小组的有 45 人，每组 9 人。二年级有多少个兴趣小组？

（3）二年级 5 个兴趣小组有 45 人，每组的人数同样多。每个兴趣小组有多少人？

微信公众号：电子课本大全

19.



20. 画一画，填一填。



1×3+1　2×3+1　3×3+1　（　　）　（　　）

4　　7　　10　　（　）　　（　）

找规律填数。

（1）1，2，4，8，（　　）。

（2）3，5，6，10，9，15，（　　），（　　）。

回顾本学期的学习情况，你觉得自己能得几个★，就给几个☆涂上颜色。

☆ ☆ ☆ ☆ ☆

微信公众号：电子课本大全