# 一 万以内数的认识






微信公众号：电子课本大全

# 数数

## 1 数一数，说一说。



10个一是十。





10个十是一百。





10个一百是多少呢？



10个一百是一千（1000）

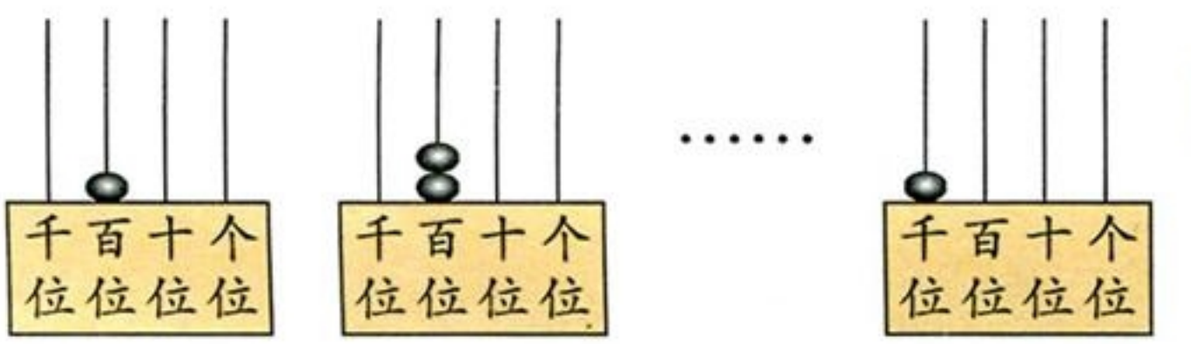


1000是一个比较大的数。



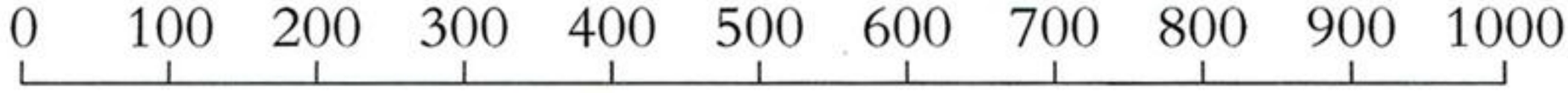


## 2 数一数，说一说。

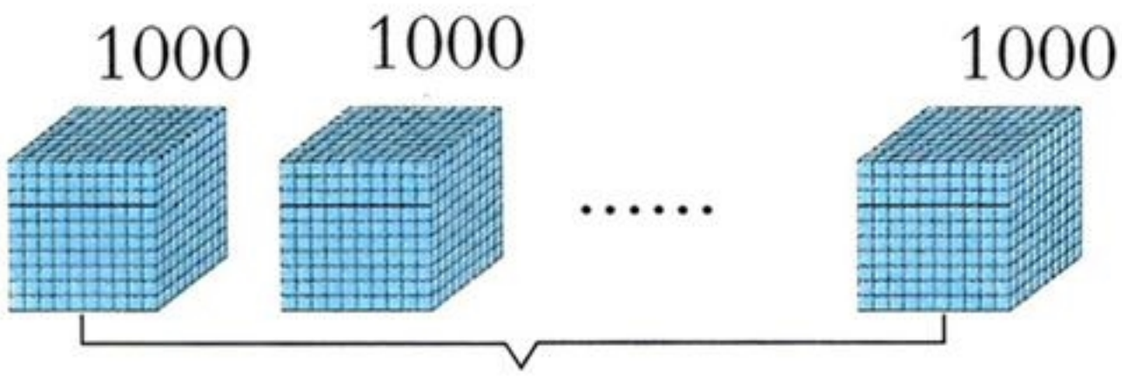


10000是一个更大的数。



10个一千是一万（10000）



微信公众号：电子课本大全

## 3 先数一数，再在计数器上拨一拨。



一(1)



十(10)



一百(100)

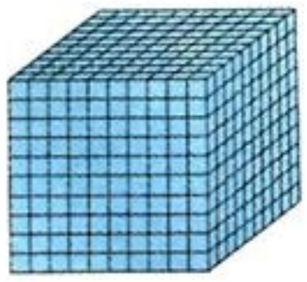

一千(1000)















一万(10000)






一、十、百、千、万都是计数单位，相邻两个计数单位间的进率是10。

## 课堂活动

1. 数一数，说一说。

(1)  左图中有(　　)个小方格。

(2) 

上图中共有(　　)个小方格。

(3)10个(2)题这样的图共有(　　)个小方格。



微信公众号：电子课本大全

2. 在计数器图上画●。




一万　　一千　　一百

3. 下面的人民币每扎是100张，各是多少元？



（　　）元



（　　）元

4 一个一个地数。

（1）用小棒从九十七数到一百二十。




（2）在计数器上从一百九十七数到二百一十。

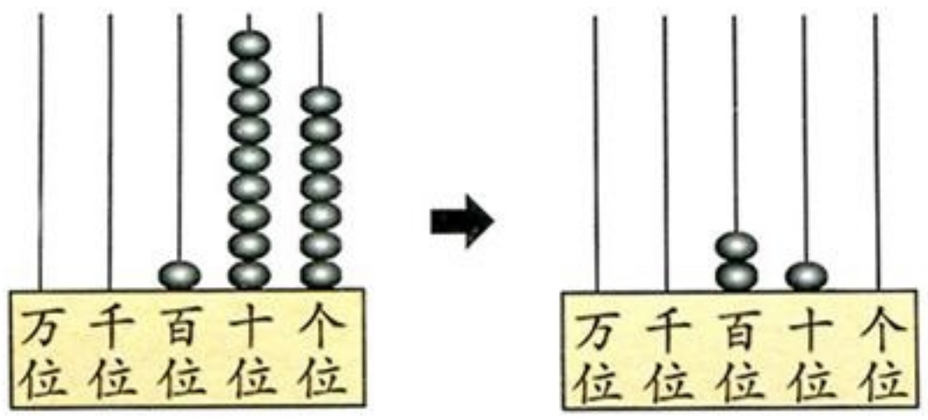










微信公众号：电子课本大全

## 5 一十一十地数。

(1)从九百八十数到一千零五十。




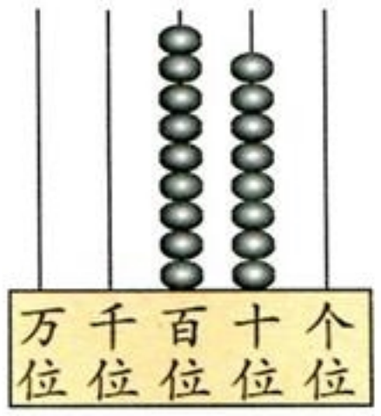


九百八十

由(　)个百和

(　)个十组成。

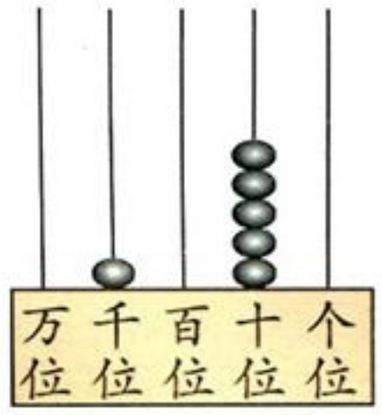


一千零五十

由(　)个千和

(　)个十组成。

(2)从一千九百数到二千零一十。




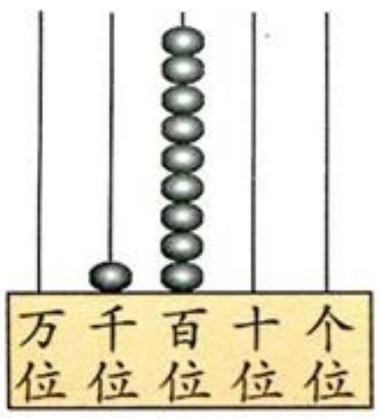


一千九百

(　)个千和(　)个百

组成一千九百。




二千零一十

(　)个千和(　)个十

组成二千零一十。

### 课堂活动

拨一拨，数一数。

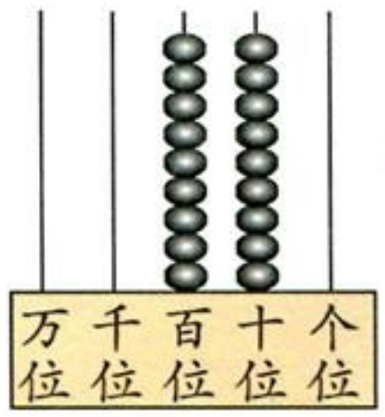




一个一个地数，从九百九十数到一千零一十。

一十一十地数，从一千九百七十数到二千零二十。

一百一百地数，从一千八百数到三千。



微信公众号：电子课本大全

## 练习一

1. 填一填。

(　　)个 是，(　　)个是一万。

2. 从下面各数起，往后依次数3个数。

三百九十九　　五千零八　　六百四十九

四千八百九十九　　一千零六十九　　九千九百九十七

3. 数一数，说一说。

(1)

(　　)个百、(　　)个十和(　　)个一合起来是(　　)。

(2)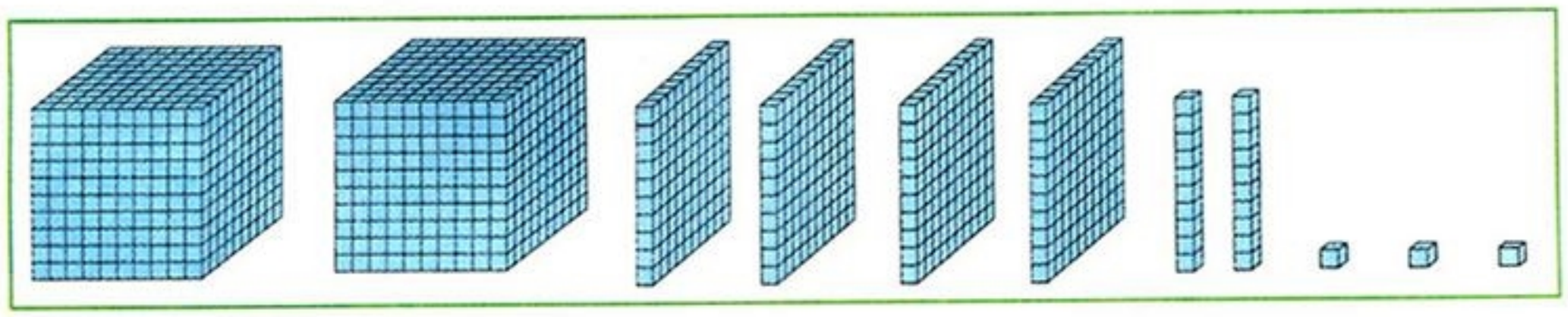

(　　)个千、(　　)个百、(　　)个十和(　　)个一组成(　　)。

4. 说一说。

(1)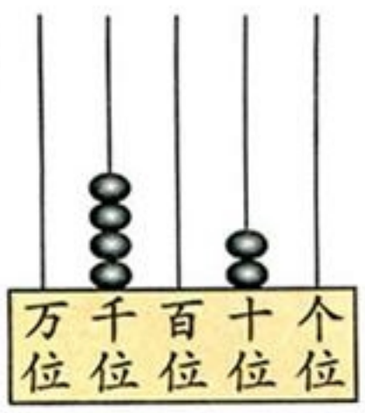


(　　)个千和(　　)个十组成的数是四千零二十。

(2)五千四百是由(　　)个千和(　　)个百组成。

四千零七十是由(　　)个千和(　　)个十组成。

二千四百九十六是由2个(　　)、4个(　　)、9个(　　)和6个(　　)组成。



微信公众号：电子课本大全

# 写数　读数

## 1 拨一拨，写一写。

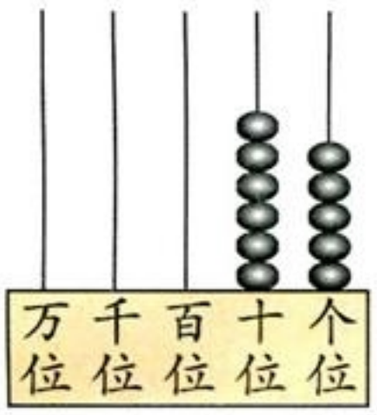


写作：65

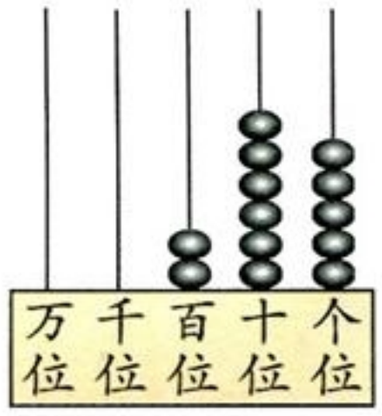


写作：(　　)




写作：(　　)



从右起第3位是百位，第4位是千位，第5位是万位。

写数是从高位写起，几千在千位上写几，几百在百位上写几……

## 2 写出下面的数。

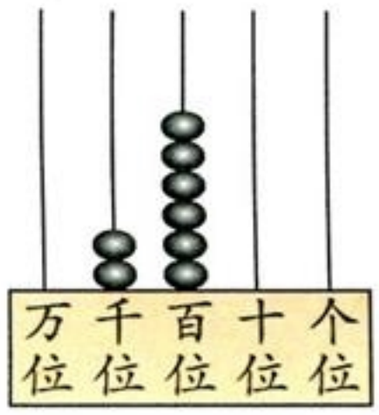


写作：2600

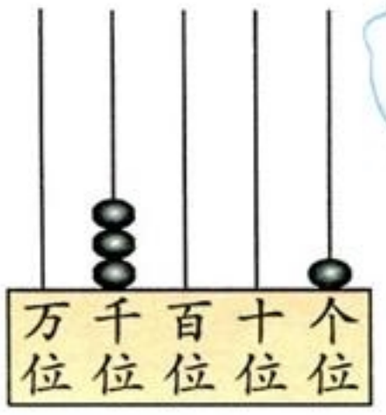


写作：(　　)

哪个数位上1个计数单位也没有，就在这一位上写0。



试一试

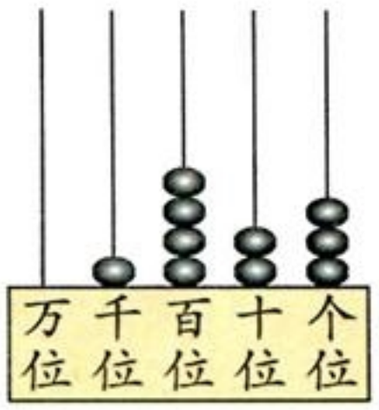


写作：(　　)




写作：(　　)

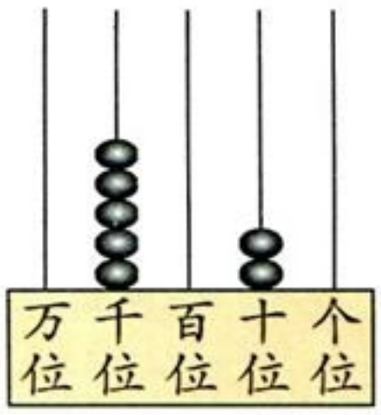


写作：(　　)



微信公众号：电子课本大全

**3** 写出横线上的数。

1台柜式空调四千八百元，1台洗衣机二千零七十五元。

四千八百　　写作：4800

二千零七十五　　写作：2075



千位上写4，百位上写8，十位和个位上都写0。

**试一试**

六千一百四十五　　写作：(　　)

五千零五十　　写作：(　　)

四千零一　　写作：(　　)

## 课堂活动

1. 看图写数。

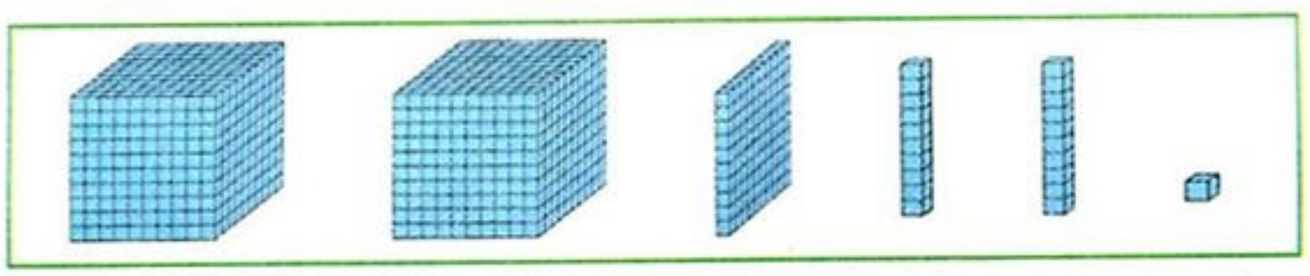

写作：(　　)

2. 你拨我写。



3. 我说你写。

(1)一个数个位上是5，十位上是3，百位上是6，千位上是2，这个数写作(　　)。

(2)一个数的千位和十位上都是3，百位和个位上都是0，这个数写作(　　)。

(3)一个数由3个千和5个一组成，这个数写作(　　)。



微信公众号：电子课本大全

## 4 读出横线上的数。

沙河镇大地小学有学生315人，沙河镇中心校有学生1236人。

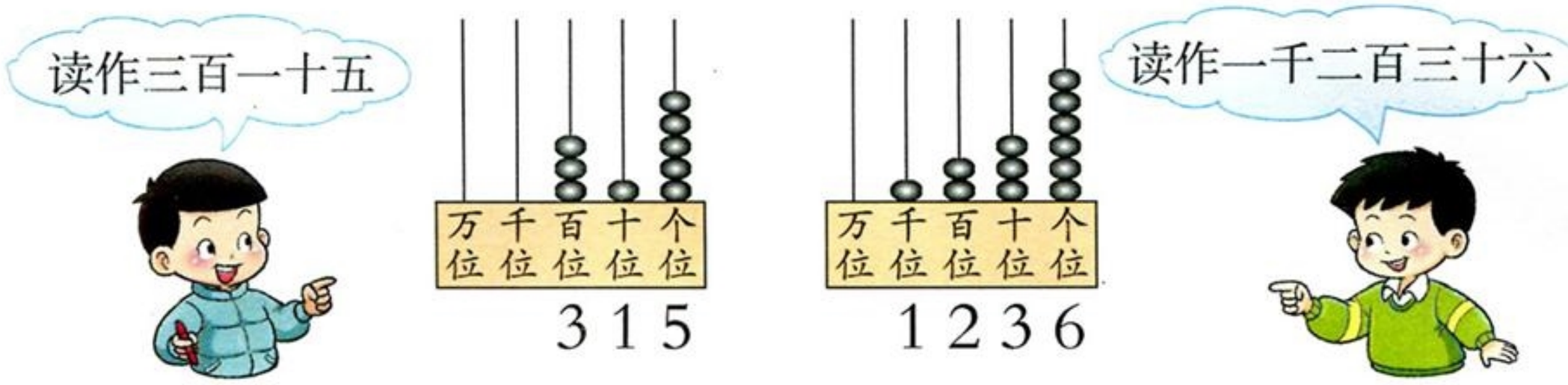


读数是从高位读起，千位上是几，读作几千；百位上是几，读作几百……

## 5 读出下面各数。

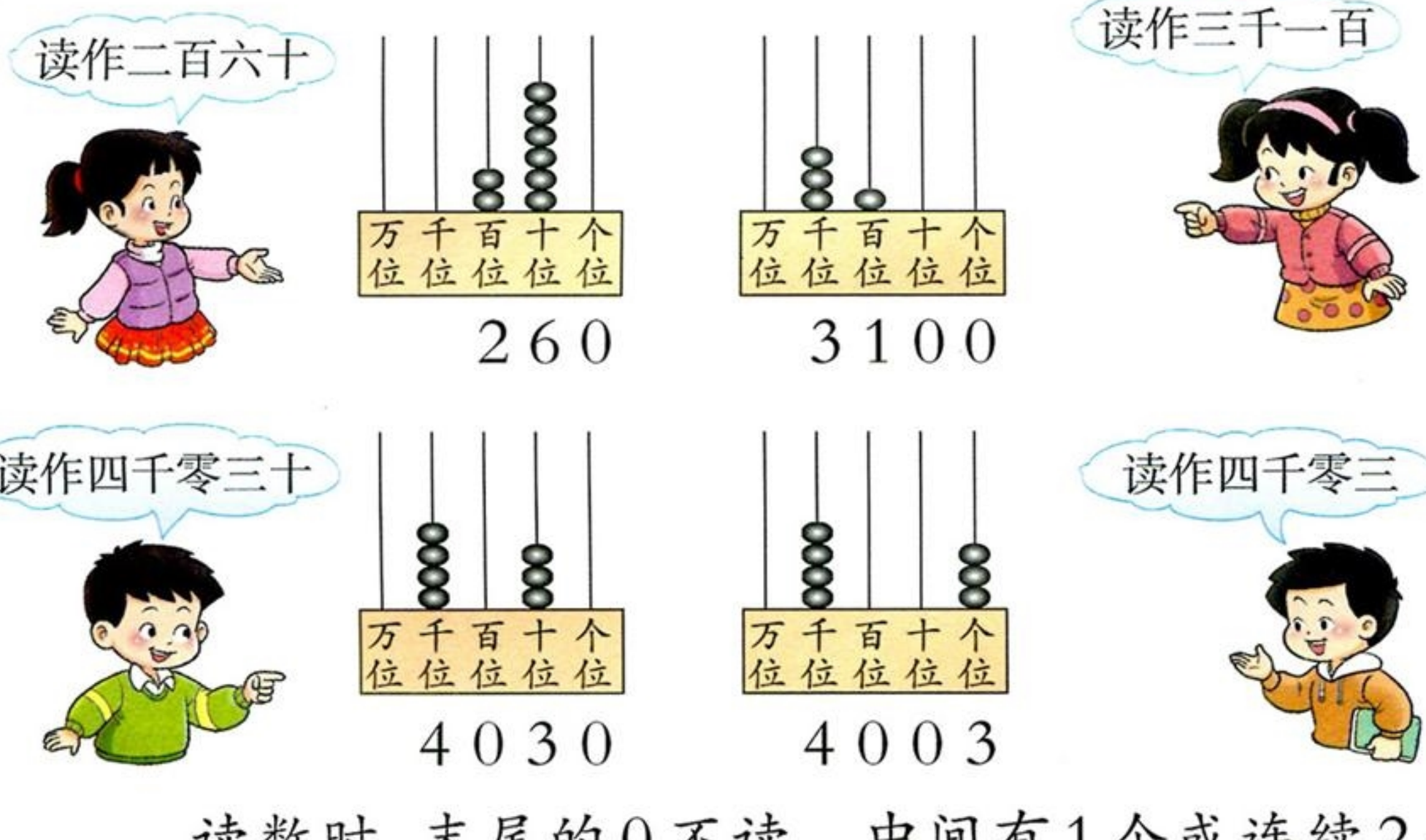


读数时，末尾的0不读。中间有1个或连续2个0，只读1个零。

## 试一试 读出下列各数。

| | | |
|---|---|---|
| 615 | 5800 | 7004 |
| 6904 | 2678 | 4360 |



微信公众号：电子课本大全

## 6 认识算盘。

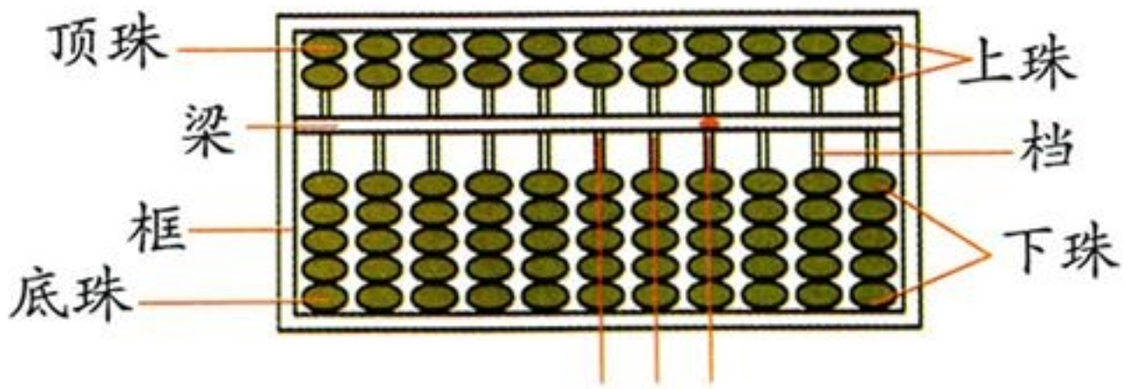




可以在算盘上任选一档记个记号，定为个位，向左数第2档是十位，第3档是百位……



算盘上记数时要拨珠靠梁。1个下珠表示1，1个上珠表示5，空档表示0。

10应该怎样拨珠呢？



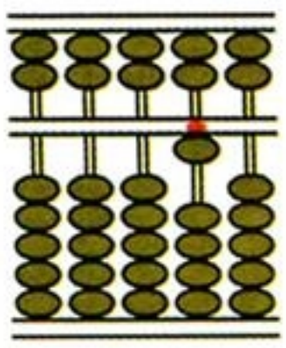

（ 1 ）

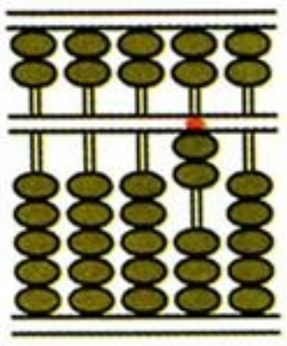

（ ）

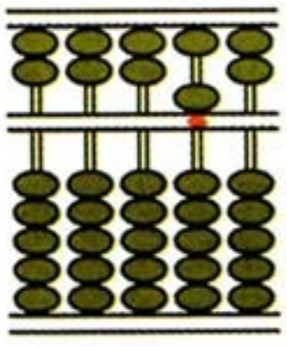

（ ）

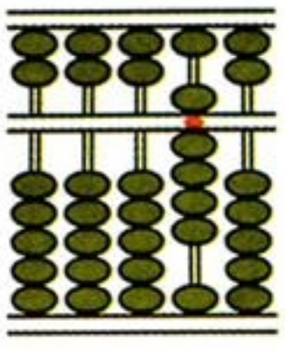

（ ）

## 7 用算盘记数。

（1）在算盘上分别表示：71，509，6800。

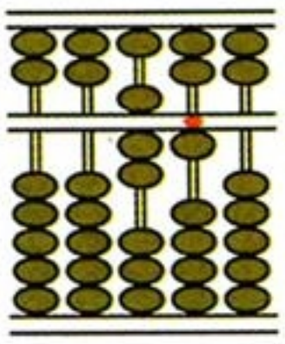

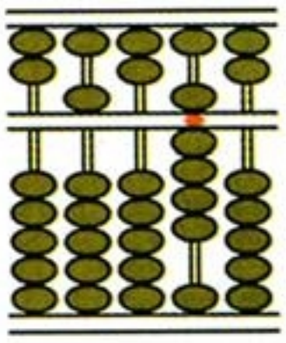

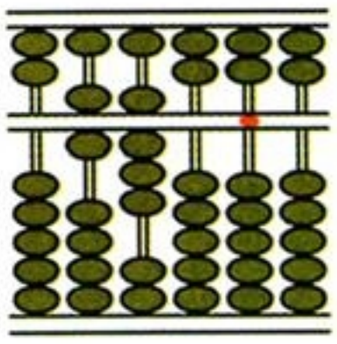



十位上拨7，个位上拨1。

509中的0怎么拨呢？





微信公众号：电子课本大全

(2)写一写。

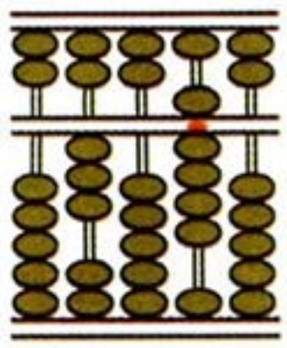

309

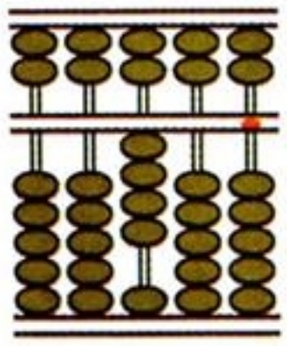

(　　)

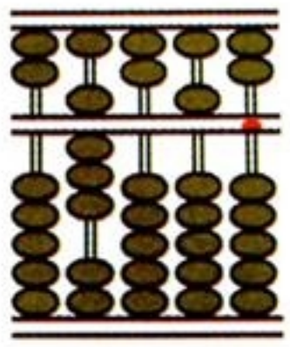

(　　)

试一试　在算盘上拨珠表示下面的数。

| | | | | |
|---|---|---|---|---|
| 105 | 1234 | 8765 | 5261 | 8007 |
| 5001 | 210 | 3546 | 9615 | 10000 |

## 课堂活动

1. 你说我写。







2. (1)读出第1页图中各数。

(2)用下面的4张数字卡片摆出不同的四位数，再读出来。

| 1 | 3 | 4 | 0 |
|---|---|---|---|

3. 读一读，写一写。

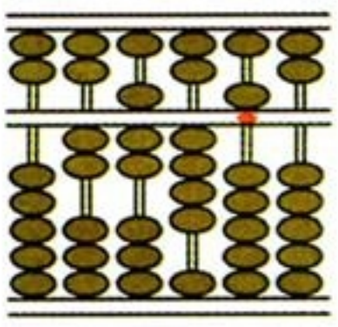

(　　)

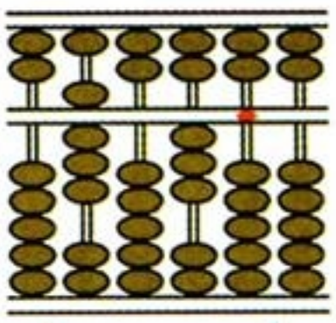

(　　)

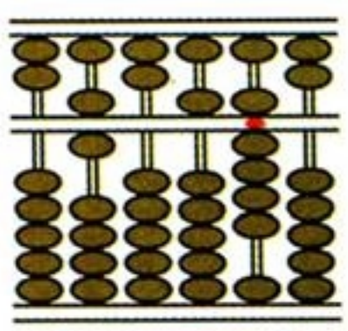

(　　)

4. 做一做。









微信公众号：电子课本大全

# 练习二

1. 边数边写，写出下面每个数后面的3个数。

(1)一个一个地数。

98，(　　)，(　　)，(　　)。　2198，(　　)，(　　)，(　　)。

(2)一十一十地数。

980，(　　)，(　　)，(　　)。　7980，(　　)，(　　)，(　　)。

2. 写数。

一千二百三十四　写作：(　　)　　三千五百　写作：(　　)

四千零七十　　写作：(　　)　　一千零一　写作：(　　)

3. 看图写数，再读出来。




写作：(　　)

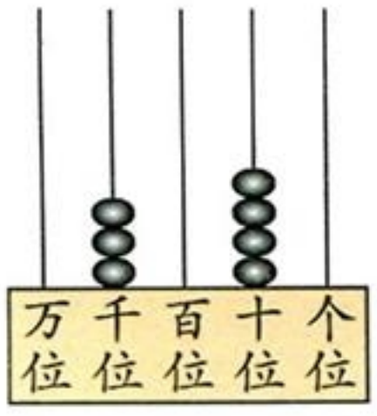


写作：(　　)

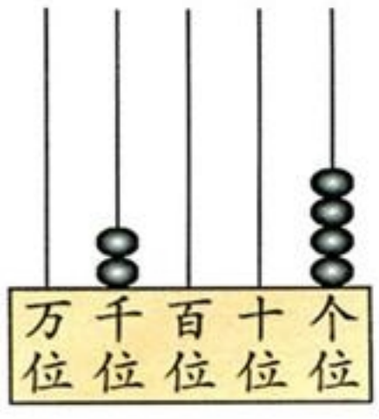


写作：(　　)

4. 读出下面横线上的数。



南京长江大桥公路桥长4589m。



世界第一大洋——太平洋的平均深度约是4028m。



我国西气东输工程的管道全长约3900千米。



中国有文字记载的历史约有4000年。

5. 读出下面各数。

(1)3125　8473　9324　　(2)7100　7010　7001



微信公众号：电子课本大全

6. 填空。

(1)4328= 4000 + 300 + 20 + 8

(2)5107= ＿＿ + ＿＿ + ＿＿　　(3)1080= ＿＿ + ＿＿

7. 写出下面各数,并读出来。

(1)7个千、4个百和3个一组成的数写作(　　)。

(2)千位上和十位上是5,其余两位上是0的数写作(　　)。

(3)一个四位数,最高位和最低位上是4,其余两位上是0,这个数写作(　　)。

8. 看图写数。

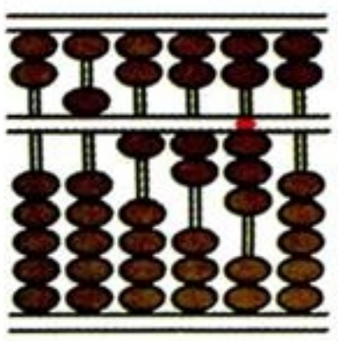

(　　)

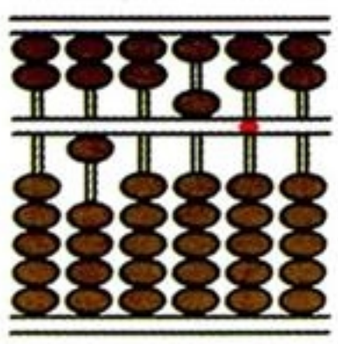

(　　)

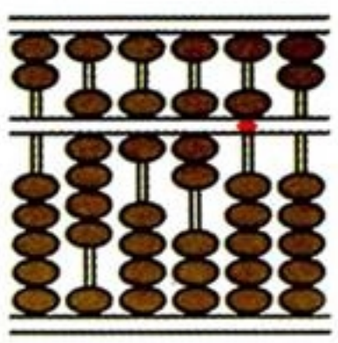

(　　)

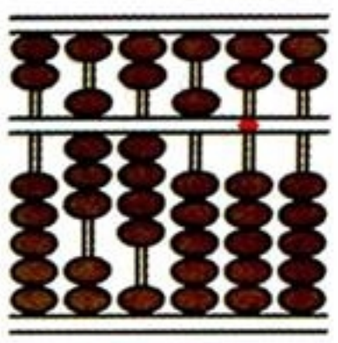

(　　)

9. 用2个0,1个5,1个3写数。

(1)1个零都不读的四位数有(　　)。

(2)只读1个零的四位数有(　　)。

10. 小调查。

(1)自己的身高是(　　)cm。

(2)全班有(　　)人,全年级有(　　)人,全校有(　　)人。

(3)将下列商品每台的售价填入表中。

| 物品 | 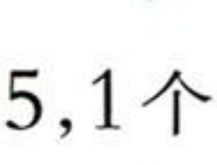 |  |  |  |
|---|---|---|---|---|
| 单价（元） | | | | |




一个三位数,个位上的数比十位上的数多1,百位上的数比十位上的数少1,这个三位数可能是(　　)。



微信公众号：电子课本大全

# 大小比较

## 1 比大小。

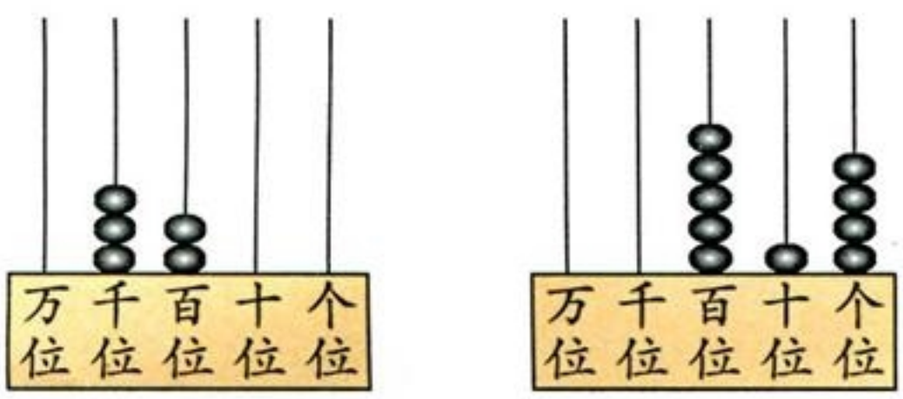


3200 ○ 514







试一试　997 ○ 1000　　1374 ○ 895

## 2 在○里填“>”或“<”。

(1)

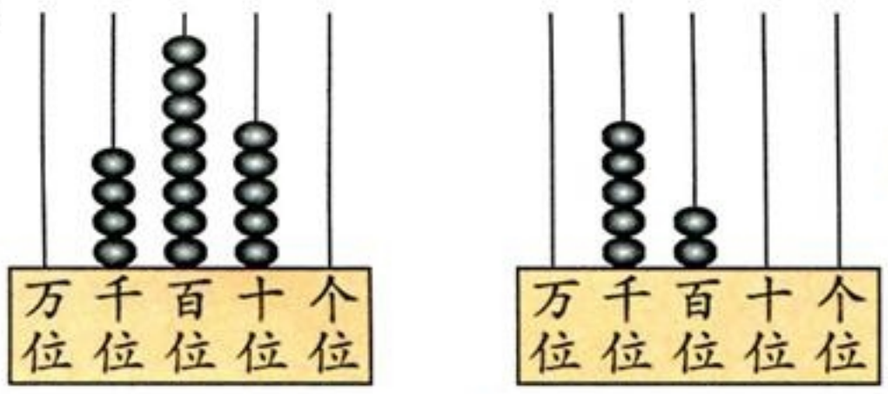


4850 ○ 5200




(2)




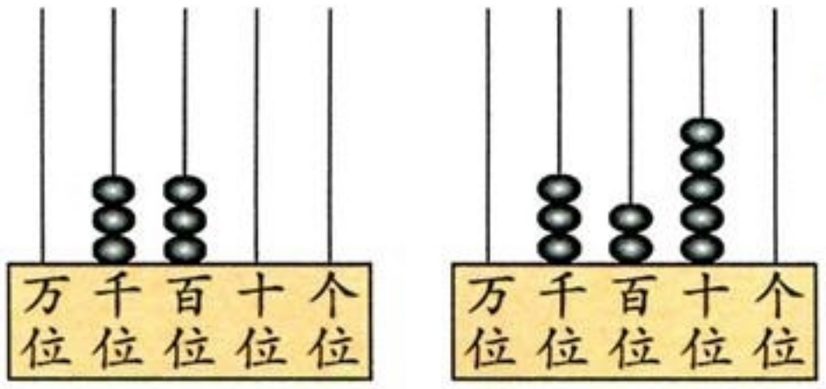


3300 ○ 3250




试一试　7435 ○ 6890　　3174 ○ 3471　　4321 ○ 4312



微信公众号：电子课本大全

## 课堂活动

1. 两个同学各想1个三位数或四位数，再比大小。







2. 拨一拨，比一比。




3. 游戏。

(1)两人出手指，每出1次，将两人手指个数的和各自填入自己选定的1格中，和为10时不记。

(2)连续进行3次，各自组成1个三位数，数大者获胜。






微信公众号：电子课本大全

# 较大数的估计

## 1 议一议，估一估。



橘子




苹果



柚子



橘子的个数比苹果多一些。

柚子的个数比苹果少得多。



橘子大约有多少个？（画“√”。）
柚子大约有多少个？（画“○”。）

| | 1500 | 1000 | 800 | 400 |
|---|---|---|---|---|
| 橘子（个） | | | | |
| 柚子（个） | | | | |

## 2 1碗黄豆大约有多少粒？




（1）1把黄豆大约有100粒，这一碗黄豆大约有（　　）把，这一碗黄豆大约有（　　）粒。

（2）1小杯黄豆大约有200粒，这一碗黄豆大约有（　　）小杯，这一碗黄豆大约有（　　）粒。



微信公众号：电子课本大全

## 3 想一想，说一说，1200张纸大约有多厚？




**议一议** 1200名学生站成1列有多长？

## 课堂活动

1. 想一想，画一画。




(1)红红想的数大约是多少？(画“○”。)

(2)方方想的数大约是多少？(画“△”。)

| 400 | 470 | 600 | 900 |
| --- | --- | --- | --- |
| | | | |

2. 量一量自己1步的长是多少厘米，估一估教室的长有多少步，走1000步有多长。

3. 估一估1袋瓜子有多少粒。






微信公众号：电子课本大全

## 练习三

1. (1)依次写数。

997,998,999,(　　),(　　),(　　)。

(2)在上面6个数中,选出合适的数,填入(　　)内。

(　　)>(　　)　　(　　)<(　　)

2. 比一比。

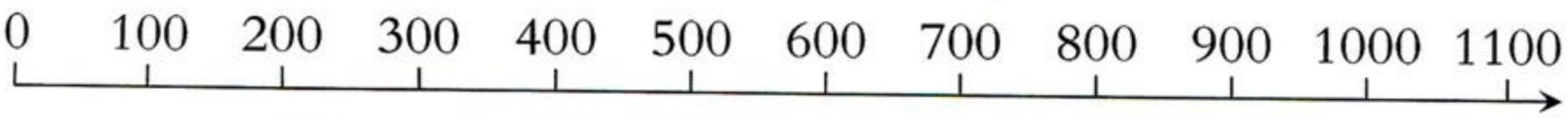


200 ○ 800　　800 ○ 1000　　1000 ○ 1100

3. 在○里填“>”或“<”。










4. 把下面同学的身高按一定的顺序排列。




135cm　　130cm　　140cm　　138cm

5. 一个三位数加上1是四位数,这个三位数是(　　)。

6. 用0,1,5,8组成不同的四位数,其中最大的数是(　　),最小的数是(　　)。



微信公众号:电子课本大全

7. 填空。

| | 两位数 | 三位数 | 四位数 |
|---|---|---|---|
| 最小 | | | |
| 最大 | | | |

8. 估支数。



大约有50支



大约有(　　)支



大约有(　　)支

9. 估一估。



大约有100粒



大约有(　　)粒



大约有(　　)粒

10. 红岭学校学生人数如下：

幼教部



215人

小学部



870人

初中部



340人

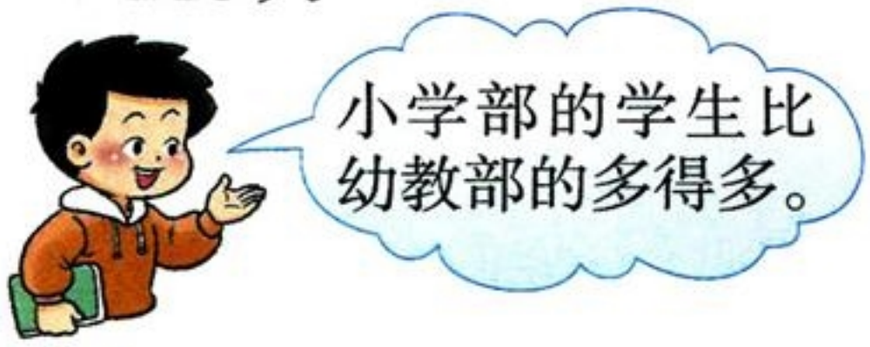





11. 到商场调查商品的售价，再选择有关商品的名称填入表中。

| 售价（元） | 1000以下 | 1000～1999 | 1999以上 |
|---|---|---|---|
| 商品名称 | | | |



微信公众号：电子课本大全

# 整理与复习




1. (　　)个一是十，(　　)个十是一百，(　　)个一百是一千，(　　)个一千是一万。

万以内的计数单位有哪些？相邻两个计数单位的进率是多少？

2. 先写数，再比较大小，并说出理由。

(1)1个三位数，1个四位数。　　(2)两个四位数。

3. 写一写，读一读。

| 千 | 百 | 十 | 个 |
| --- | --- | --- | --- |
| ⁘ | ⁘ | ⁘ | ⁘ |

写作：(　　)

| 千 | 百 | 十 | 个 |
| --- | --- | --- | --- |
|  | ⁘ |  | ⁘ |

写作：(　　)

| 千 | 百 | 十 | 个 |
| --- | --- | --- | --- |
| ⁘ | ⁘ |  |  |

写作：(　　)

4. 填一填。

1盒粉笔有20支，1个班1周大约要用1盒粉笔，1个月大约要用(　　)支粉笔；1个年级有5个班，1周大约要用(　　)支粉笔。



微信公众号：电子课本大全

# 练习四

1. 写一写。

(1) 


(2) 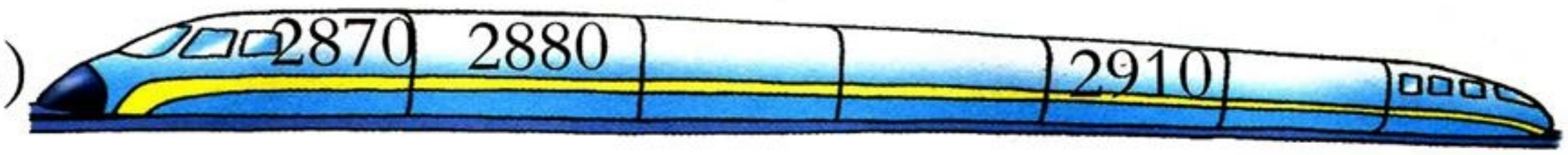


2. 读数。

| | | | |
|---|---|---|---|
| 8009 | 8090 | 8900 | 3456 |

3. 写数。

二千四百六十八　写作:(　　)　　四千三百　写作:(　　)

八千零五十四　写作:(　　)　　三千零一　写作:(　　)

4. 南风小学大约有学生800人。

(1)红岭小学的学生比南风小学少一些,红岭小学大约有学生多少人?(画“○”。)

(2)铁山小学的学生比南风小学多得多,铁山小学大约有学生多少人?(画“△”。)

| 400 | 750 | 900 | 1200 |
|---|---|---|---|
| | | | |

5. 比一比。

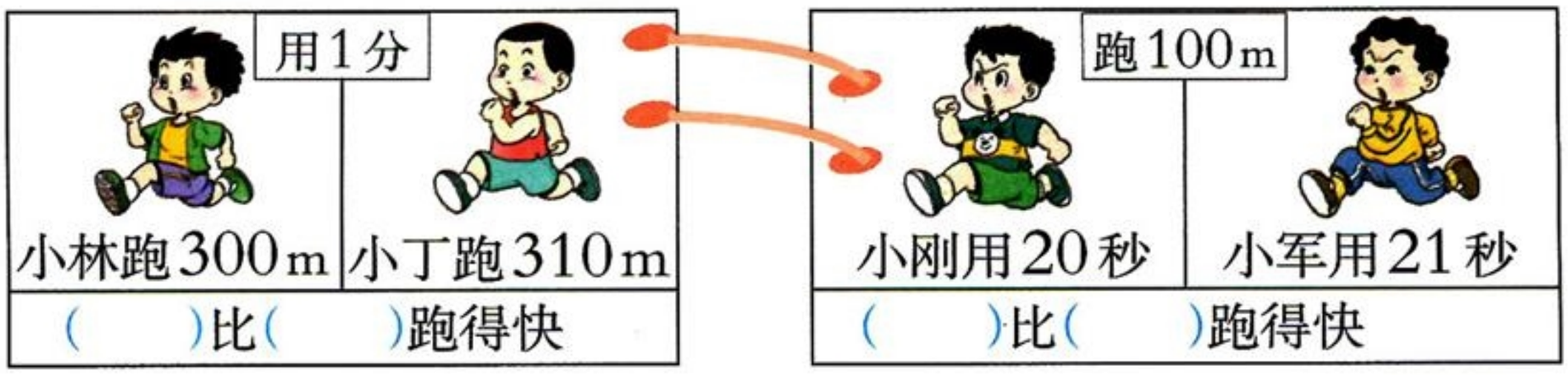





3333中,千位上的3是百位上3的(　　)倍,千位上的3是十位上3的(　　)倍,千位上的3是个位上3的(　　)倍。



微信公众号:电子课本大全




# 算　盘



1　中国是算盘的故乡。早在春秋时期，我国就有了算盘的雏形——算筹。通常用粗细一样、长短相同的小木棍拼排成数码，用以计数。



中国算盘

2　汉代时，随着生产的发展，算筹逐渐被算盘所取代。以算盘为工具进行的计算叫珠算。



日本算盘

3　明朝初年，我国的算盘传到了朝鲜、日本等亚洲国家。后来又流传到俄国，并从俄国传到西欧各国。




4　以前打一手好算盘，是求职谋生的基本条件。人们时常用“金算盘”“铁算盘”来比喻人很精明。



5　国际上曾多次进行过计算速度的比赛，在和计算机的对抗中，每次加、减法的速度冠军都是算盘。



微信公众号：电子课本大全



# 千米的认识

## 1



8个人站成一排，大约有10 m长。

80个人站成一排，大约有100 m长。

800个人站成一排，大约有1000 m长。



计量比较长的距离通常用千米作单位。

1000米就是1千米，也叫1公里。



哇，1千米好长啊！



## 2 生活中的1千米。




千米可以用km表示　1km=1000m

## 3 比一比谁长。



三峡大坝全长2309 m



隧道长3 km

2309m ○ 3km



把千米数换算成米数，3千米=3000米。也可以……

三峡大坝比……







微信公众号：电子课本大全

## 课堂活动

1. 举一些用千米作单位的例子。

2. 对口令。




3. 说一说大约几千米。



长1075m



长4850m



每秒飞行7900m

4. 你能提出并解决哪些数学问题？

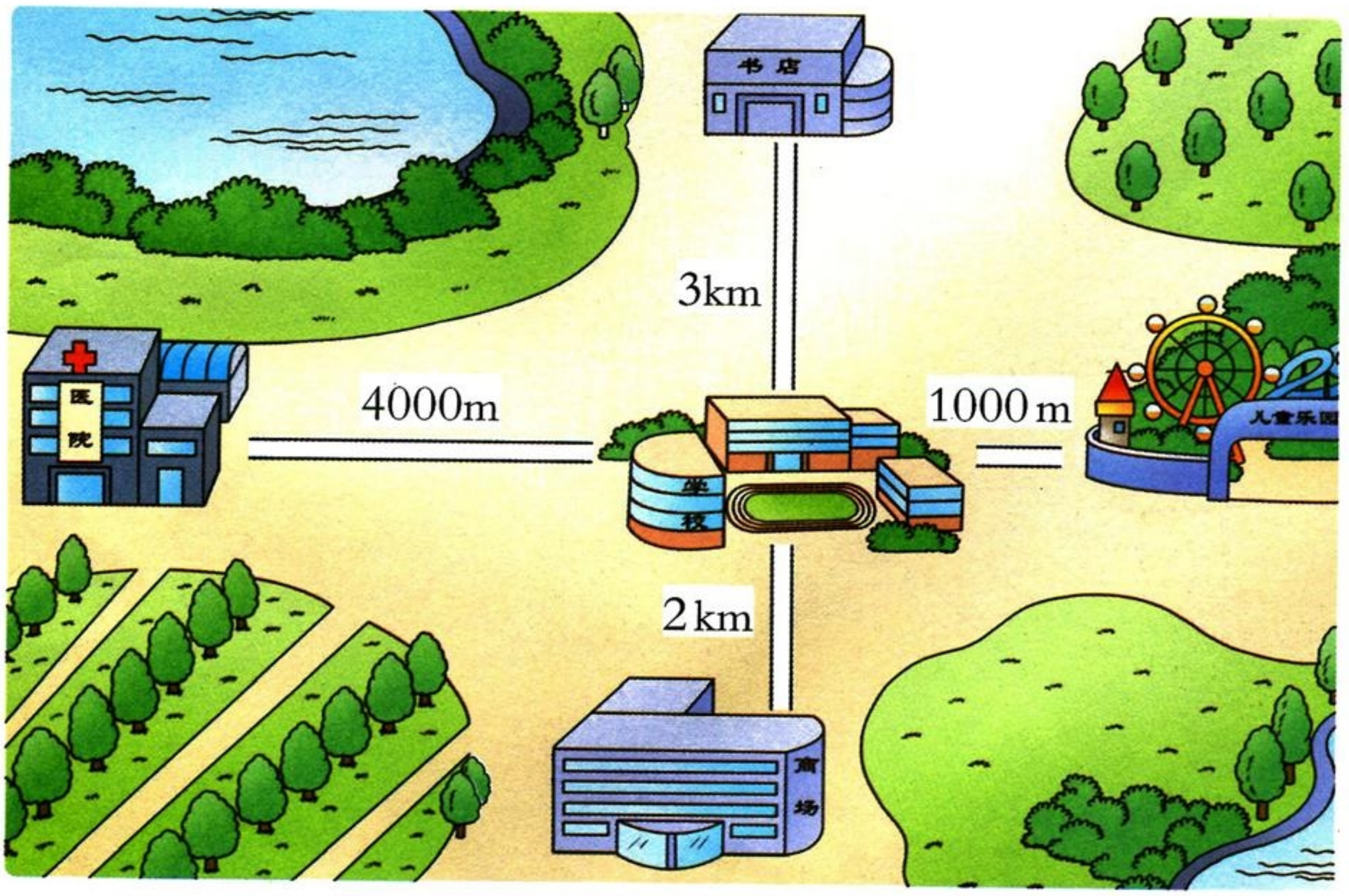




微信公众号：电子课本大全

## 4 认一认毫米。






直尺上最小1格的长度是1毫米。

数一数，1厘米有多少毫米？



毫米可以用mm表示　　1cm=10mm



1张身份证的厚度大约是1毫米。

1粒芝麻的宽度大约是1毫米。



10张纸的厚度大约是1毫米。



**议一议**

我们学过的长度单位有哪些？相邻两个单位间的进率各是多少？




## 课堂活动

1. 选择合适的单位填空。



厚约2(　　)



厚约9(　　)



高约4(　　)



高约2(　　)



长约120(　　)



长约15(　　)

2. 量一量数学书的厚度是(　　)mm。

3. 先估计100张纸的厚度，再量一量。



微信公众号：电子课本大全

# 练习五

1. 小调查。



每时约行
(　　)km



每时约行
(　　)km



每时约行
(　　)km

2. 填适当的数。

6 km = (　　) m　　8000 m = (　　) km

5000 m = (　　) km　　4 km = (　　) m

3. 比一比。



武汉长江大桥
长1670 m



南京长江大桥铁路桥
长6772 m



江阴长江公路大桥
长3071 m

4. 认一认，再填空。




长(　　)mm

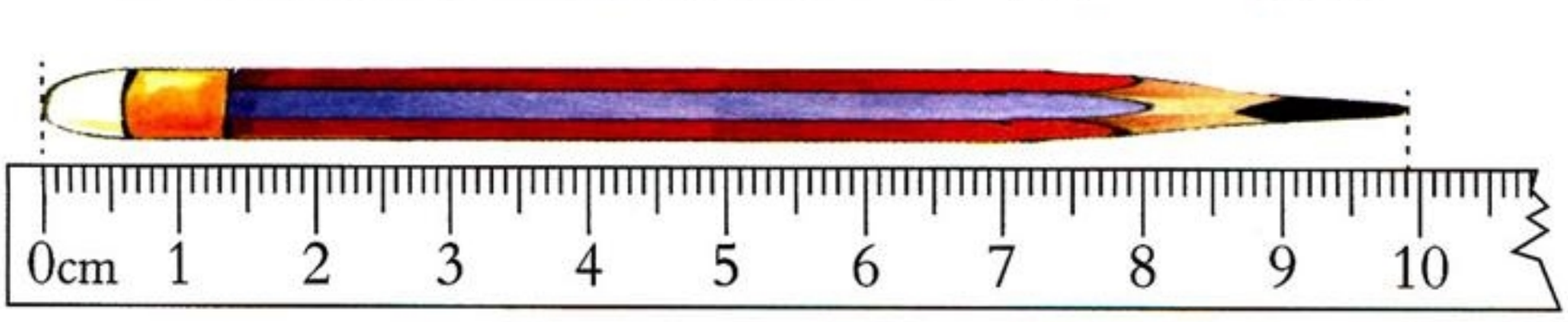


长(　　)mm

5. 在○里填“>”“<”或“=”。

8 km ○ 7900 m　　7000 m ○ 7 km　　5000 m ○ 4 km

5 km ○ 5400 m　　5 m ○ 49 dm　　50 dm ○ 500 cm



微信公众号：电子课本大全

6. 看图填空。

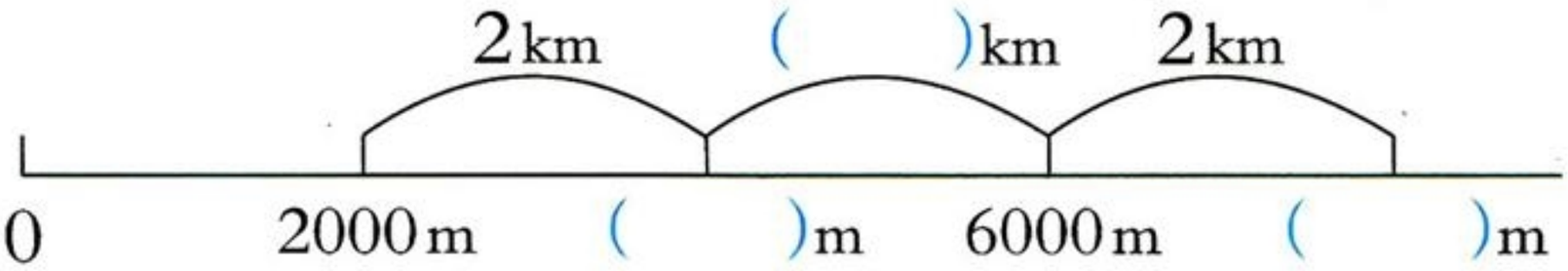


7. 在(　　)里填合适的单位。



长约2(　　)



长约16(　　)




作业本厚度约3(　　)



高约8(　　)



每时约行20(　　)



身高约125(　　)

8. 小东从家到游乐园最少要走多少千米？

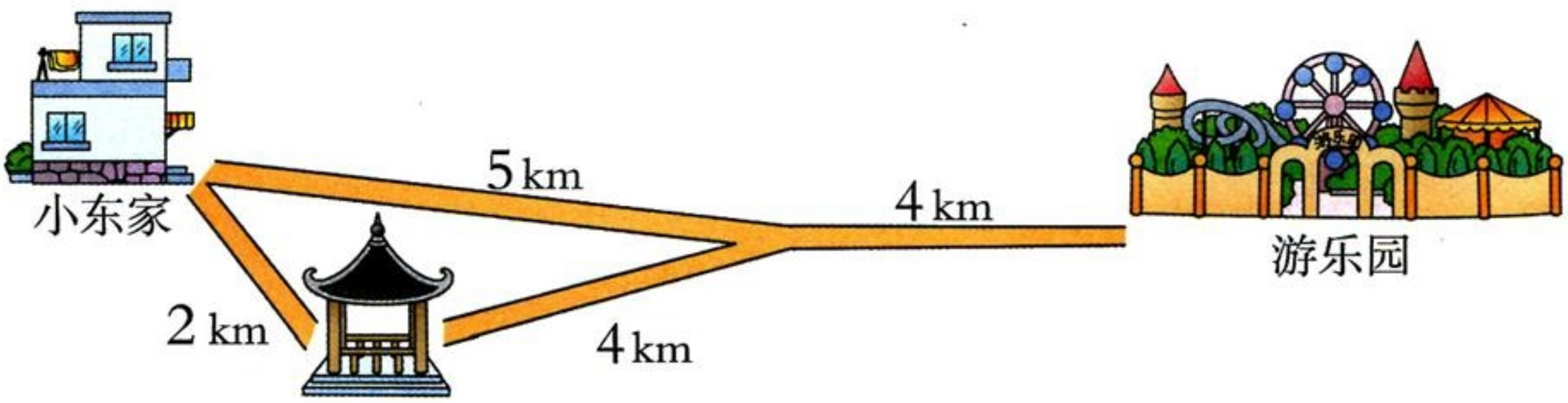


思考题

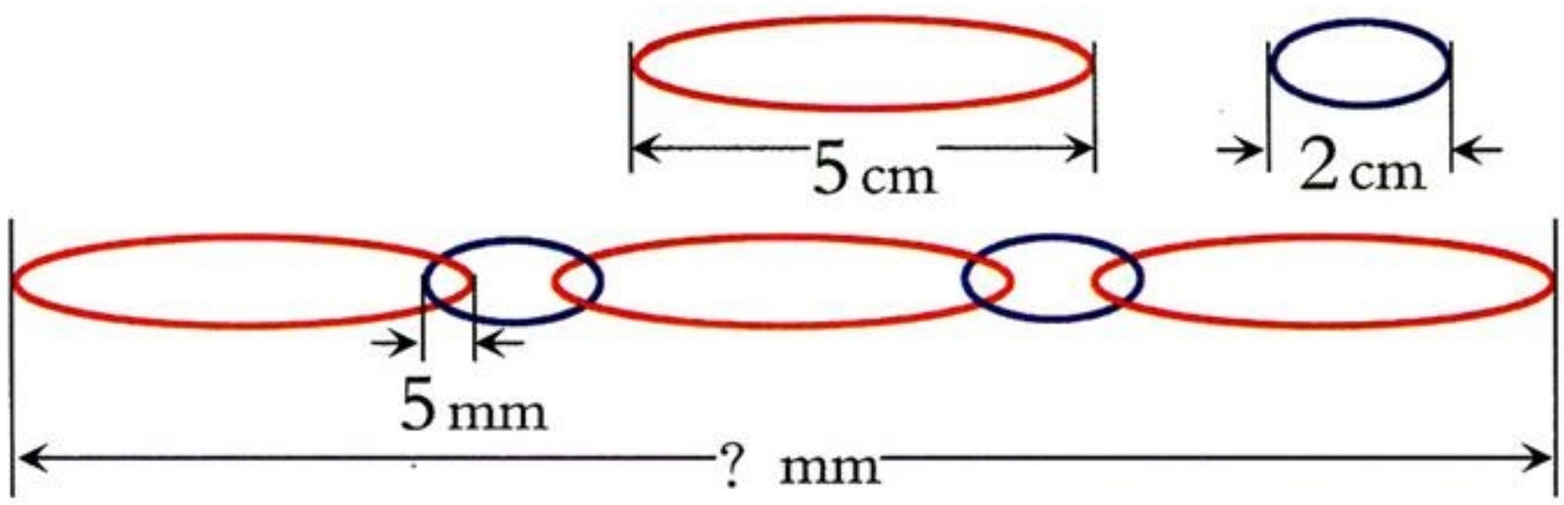




微信公众号：电子课本大全

综合与实践

# 体验千米






微信公众号：电子课本大全

## 感受千米。




## 体会千米。




## 估计千米。




## 查阅千米。






微信公众号：电子课本大全

# 三 三位数的加减法




| 轮船 | 重庆 → 宜昌 |
| --- | --- |
| 二等舱 | 上铺 578元 |
| | 下铺 636元 |
| 三等舱 | 上铺 270元 |
| | 下铺 297元 |

上海到武汉与重庆到武汉比，哪段路近？

买三等舱的1张上铺票和1张下铺票，一共要多少元？

要用到三位数加三位数。



微信公众号：电子课本大全

# 整十、整百数的加减

## 1 两种气球一共有多少个？红气球比黄气球多多少个？



8袋红气球，5袋黄气球。



每袋10个。

80+50=□（个）

80−50=□（个）



8个十加（减）5个十，等于……

从80往后（前）数5个十……



答：两种气球一共有（　　）个，红气球比黄气球多（　　）个。

试一试　300+900=□　　900−700=□

## 2 看图填空。



苹果300个



苹果50个

300+50=□

□−50=□

□−300=□

试一试　30+400=□　　430−□=□



微信公众号：电子课本大全

## 3 小玲家与小丁家相距多少米？




400+500=□（m）




答：小玲家与小丁家相距（　　）m。

## 4 2月份销售文学书多少册？



| 科技书（册） | 文学书（册） | 合计（册） |
| --- | --- | --- |
| 400 | | 600 |

600 ○ 400 = □（册）

答：2月份销售文学书（　　）册。

## 议一议 怎样验算计算结果对不对？






微信公众号：电子课本大全

## 课堂活动

1. 我拨珠，你写算式。

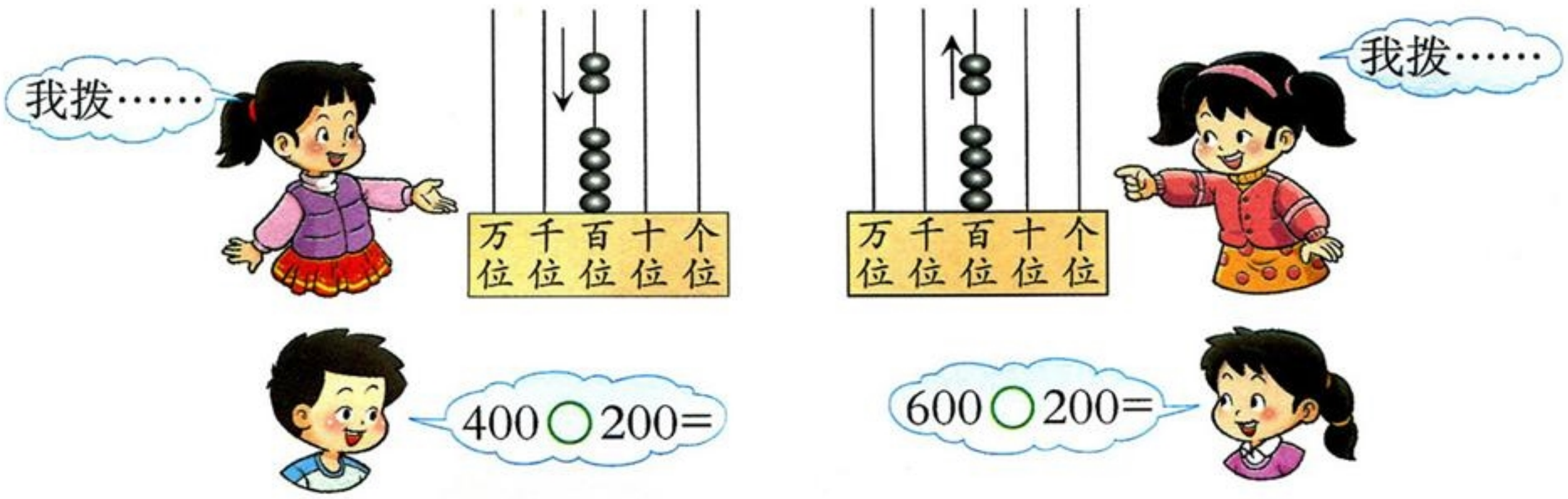


2. 卡片游戏。




3. 口算游戏。




## 练习六

1. 看图填算式。

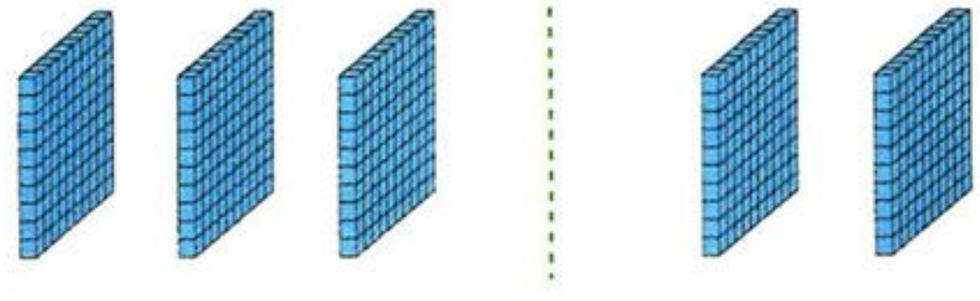

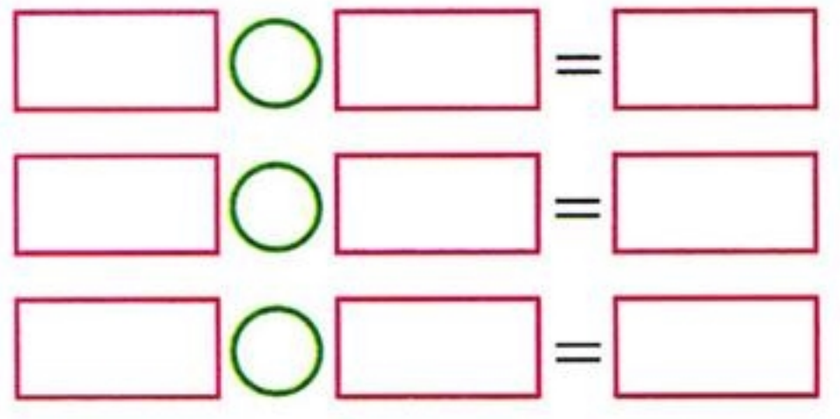



微信公众号：电子课本大全

2. 填空。

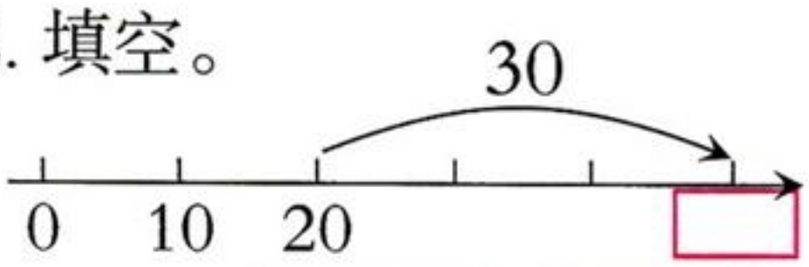


20+□=□

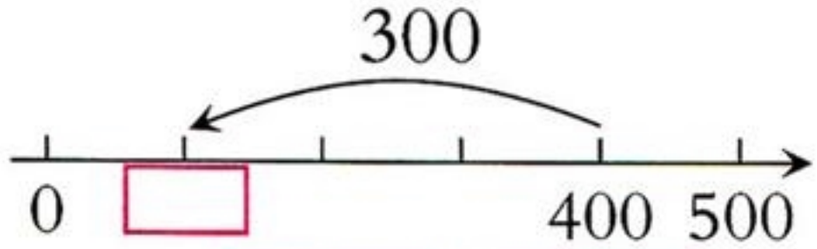


400−□=□

3.

| | | |
|---|---|---|
| 20+50= | 70−40= | 300+700= |
| 200+500= | 700−400= | 900+700= |
| 200+50= | 750−700= | 900+70= |
| 20+500= | 750−50= | 90+700= |

4. 看图写算式。



加法算式：_____　　减法算式：_____

5. 根据加法算式填空。

(1) 80+60=□

□−60=□

□−80=□

(2) 300+600=□

□−600=□

□−300=□

6. 乐山大佛。

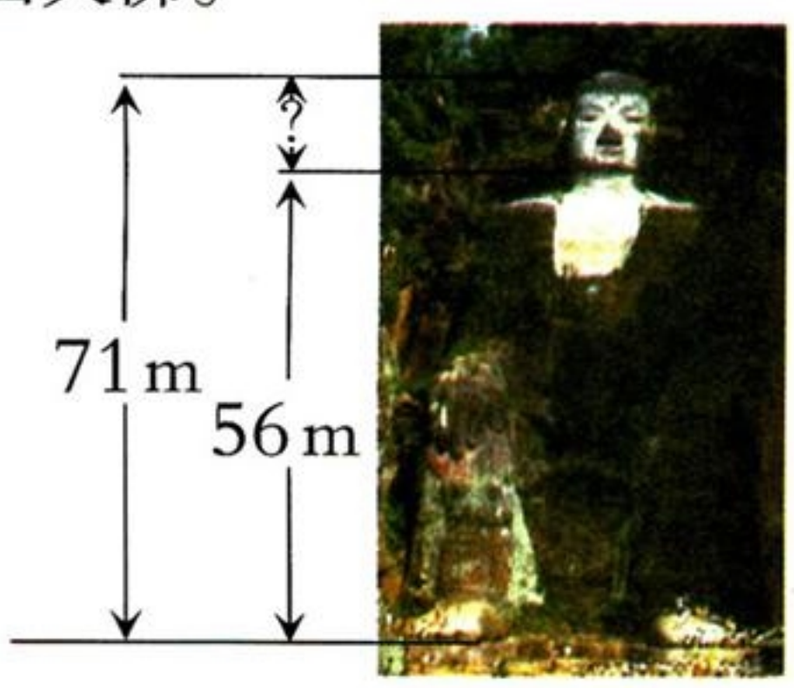


71 ○ □ = □ (m)

验算：

7. 计算并验算。

110+70=

验算：□ ○ □ = □

400−100=

验算：□ ○ □ = □



微信公众号：电子课本大全

8. 填空。

(1)

| | | |
|---|---|---|
| 500 | | |
| 600 | +300= | |
| 700 | | |

| | | | | |
|---|---|---|---|---|
| 400 | | 600 | | |
| 600 | + | 400 | = | |
| 800 | | 200 | | |

(2)

| | | |
|---|---|---|
| 600 | | |
| 700 | −300= | |
| 800 | | |

| | | | | |
|---|---|---|---|---|
| 500 | | 300 | | |
| 600 | − | 400 | = | |
| 700 | | 500 | | |

9. 在(　　)里填适当的数。

(　　)+150=450　　300+(　　)=800

(　　)−100=400　　300−(　　)=100

(　　)−80=200　　540−(　　)=40

10.




(1)两堆苹果一共有多少个?

(2)怎样使两堆苹果个数同样多?

11. 一根绳子对折再对折(如右图),这根绳子长(　　)m。




12. 二年级师生共80人去春游。




坐1辆客车还剩(　　)人,坐2辆客车还空(　　)个座位。




把10,20,30,50,60,70填入图中的○内,使每条线上3个数的和相等。

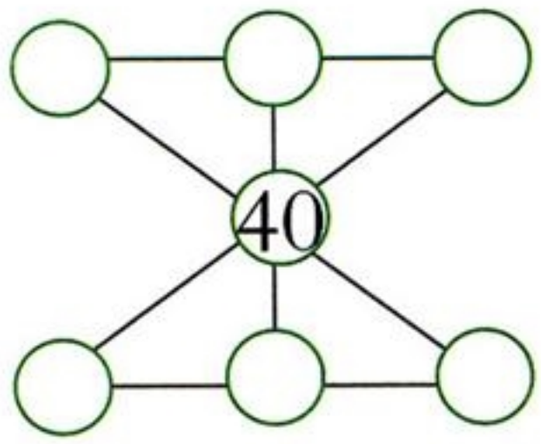




微信公众号:电子课本大全

## 5 大约要准备疫苗多少支？







300+300=600(人)

答：大约要准备疫苗600支。

**议一议** 华村第二小学有男生307人，女生316人，准备600支疫苗够不够？

## 6 张强有326元。



MP4
187元



手机
525元

买一个MP4大约能剩多少元？




300−200= ☐(元)

答：买一个MP4大约能剩(　　)元。

**议一议** 如果买一部手机，大约还差多少元？



微信公众号：电子课本大全

## 课堂活动

估一估，说一说。

新农村建设的一个居民点，已经入住583户，还能入住212户。这个居民点大约能住多少户人家？




## 练习七

1. 一张拼音报，第1版有585个汉字，第2版有312个汉字。这两个版面大约有多少个汉字？

2. 学校团体操练习，应到678人，实到580人，大约还差多少人？

3. 两辆车一共大约装多少个西瓜？



517个



470个

4. 王兵参加全民健身活动，计划每天早上大约跑600 m，傍晚大约跑400 m，（　　）天可以跑完10000 m。

5.


除草机
680元


水泵
770元


脱粒机
910元


打浆机
435元

（1）买1台  和1台  大约要多少元？

（2）你还能提出并解决哪些数学问题？

6. 蓝天小学的同学到公园春游，全校有男生493人，女生490人。公园门票每张1元，带1000元为学生购买门票够吗？为什么？



微信公众号：电子课本大全

# 三位数的加法

## 1 两种笔一共有多少支？

钢笔 


铅笔 


220+260=□（　　）



200+200=400
20+60=80
400+80=480

```
  2 2 0
+ 2 6 0
-------
  4 8 0
```

相同数位要对齐。



答：两种笔一共有（　　）支。

## 2 丰收小学共有学生多少人？

丰收小学学生人数表

| | |
|---|---|
| 男生（人） | 433 |
| 女生（人） | 418 |

433+418=□（　　）

```
  4  3  3
+ 4  1  8
---------
  □  □  1
```

个位上的数相加满10……



答：丰收小学共有学生（　　）人。

**试一试**

```
  3 0 6        4 4 4        3 5 6
+ 4 0 5      + 3 3 8      + 2 3 7
-------      -------      -------
```

**议一议** 在加法计算中应该注意什么？



微信公众号：电子课本大全

## 课堂活动

1. 填一填，说一说。

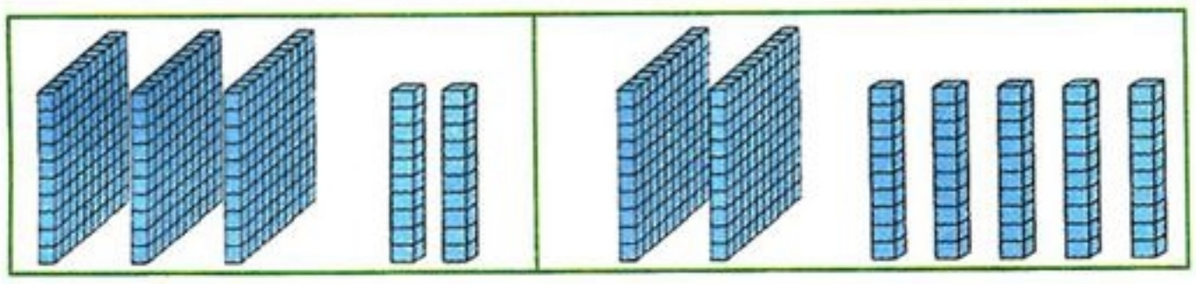

$$\begin{array}{r} 3\ 2\ 0 \\ +\ \square\ \square\ \square \\ \hline \square\ \square\ \square \end{array}$$

2. 我拨珠，你填空。




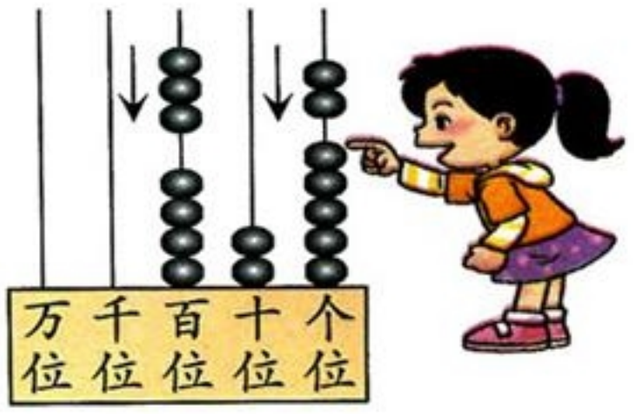


3. 先说说合计人数表示什么，再填表。

田园小学课外活动人数表

| | 体育活动 | 艺术活动 | 科技活动 |
|---|---|---|---|
| 男　生（人） | 174 | 115 | 204 |
| 女　生（人） | 118 | 142 | 189 |
| 合　计（人） | | | |

**3** 有多少头猪？



153 头



比牛多 270 头

153+270=□（　　）

$$\begin{array}{r} 1\ 5\ 3 \\ +\ 2_{1}\ 7\ 0 \\ \hline \square\ 2\ 3 \end{array}$$




答：有（　　）头猪。



微信公众号：电子课本大全

## 4 一辆自行车要多少元?

三轮童车



125元

两轮童车



378元

自行车



等于前两辆车的总价

125+378=□( )

$$\begin{array}{r} 1\ 2\ 5 \\ +\ 3\ 7_{1}\ 8 \\ \hline \square\ \square\ 3 \end{array}$$




答:一辆自行车要( )元。

**试一试** 用竖式计算。

338+169　　427+584

**议一议** 怎样计算三位数的加法?

## 课堂活动

1. 看第30页图。

(1)说一说图中有哪些数学信息。

(2)提出并解决数学问题。

2. 二年级有学生多少人?




一年级学生人数表

| | |
|---|---|
| 男生(人) | 127 |
| 女生(人) | 98 |
| 合计(人) | |



微信公众号:电子课本大全

## 练习八

1. 口算。

| | | | |
|---|---|---|---|
| 400+150= | 800−500= | 9×7= | 36÷4= |
| 500+400= | 850−50= | 3×9= | 49÷7= |

2. 计算。

| | | | |
|---|---|---|---|
| 325 | 564 | 419 | 408 |
| +134 | +328 | +457 | +387 |

3. 世界上最高的巨杉树高115 m，上海“东方明珠”电视塔比它还高353 m。上海“东方明珠”电视塔高多少米？




4. 截至2010年12月，我国西部有国家级森林公园212个，其他地区有534个，我国国家级森林公园有多少个？

5. 三峡水库二期蓄水水位高度156 m。从二期蓄水到三期蓄水，水位升高了19 m。三期蓄水水位高度是多少米？



6. 从明明家到什么地方大约有1 km？

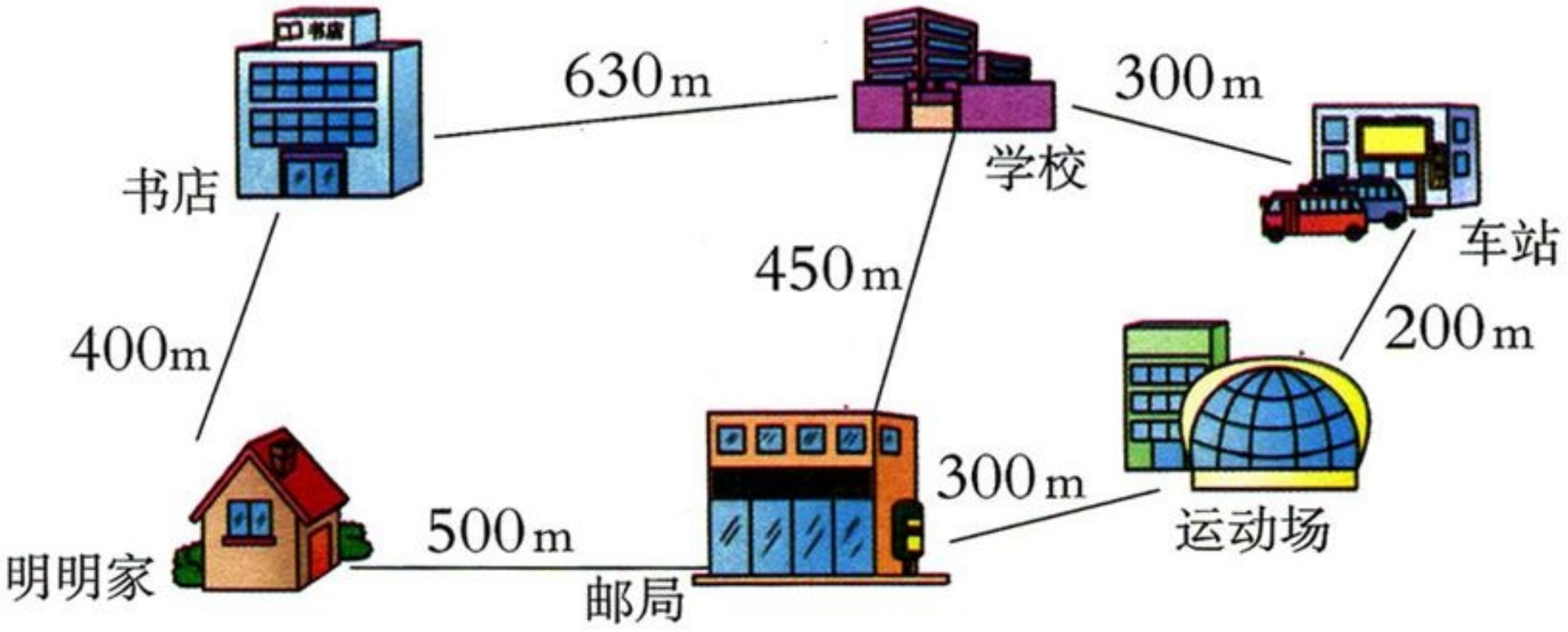




微信公众号：电子课本大全

7. 计算。

| | | | |
|---|---|---|---|
| 344 | 372 | 249 | 775 |
| +485 | +235 | +458 | +228 |

8. 3位运动员的跳高成绩如右图。(图中单位:cm)

(1)2号运动员跳高成绩是多少？3号呢？

(2)你还能提出并解决哪些数学问题？

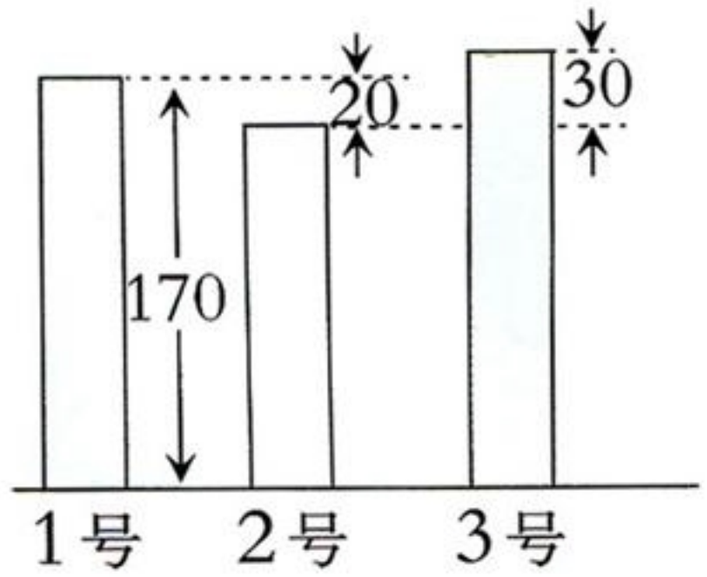


9. 两车共运南瓜多少个？



运468个



运985个

10. 买商品。



转椅285元　　办公桌708元　　书柜680元　　传真机890元

(1)买1张办公桌和1个书柜,要多少元？

(2)2000元能买哪些商品？

(3)你还可以提出并解决哪些数学问题？

11. 在□里填合适的数。

| | | |
|---|---|---|
| □ | 1 | 2 |
| +4 | □ | 5 |
| 6 | 4 | □ |

| | | |
|---|---|---|
| 2 | 5 | □ |
| +4 | □ | 5 |
| 7 | 5 | 4 |




每个苹果一样重，每个梨一样重。



2个 = (　　)个



微信公众号：电子课本大全

# 三位数的减法

**1** 小丽有340元，买1个计算器后，还剩多少元？





120元

340−120=□（　　）



300−100=200
40−20=20
200+20=220

```
  3  4  0
− 1  2  0
-------
  □  □  □
```



相同数位要对齐。

答：还剩（　　）元。

**2** 光明小学共有学生876人，其中女生有448人，男生有多少人？

876−448=□（　　）



个位上的数不够减怎么办？

```
  8  7  6
− 4  4  8
-------
  □  □  8
```

验算：

```
  □  □  □
○ 4  4  8
-------
  □  □  □
```

答：光明小学的男生有（　　）人。

**试一试**

```
  433      547      613
− 218    − 439    − 409
-----    -----    -----
```

**议一议** 在减法计算中要注意什么？



微信公众号：电子课本大全

## 课堂活动

1. 填一填，说一说。

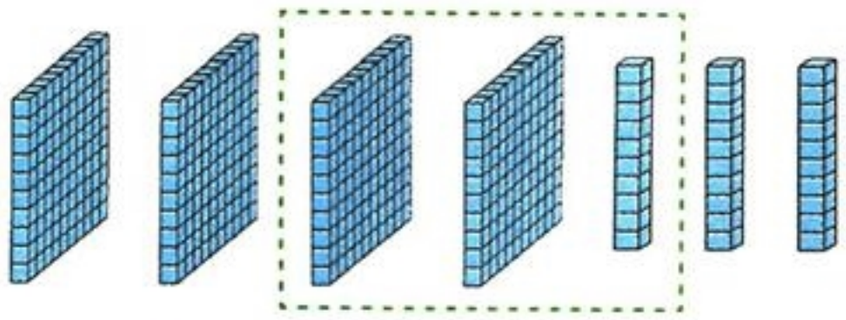

$$\begin{array}{r} 4\ 3\ 0 \\ -\ \square\square\square \\ \hline \square\square\square \end{array}$$

2. 我拨珠，你填空。




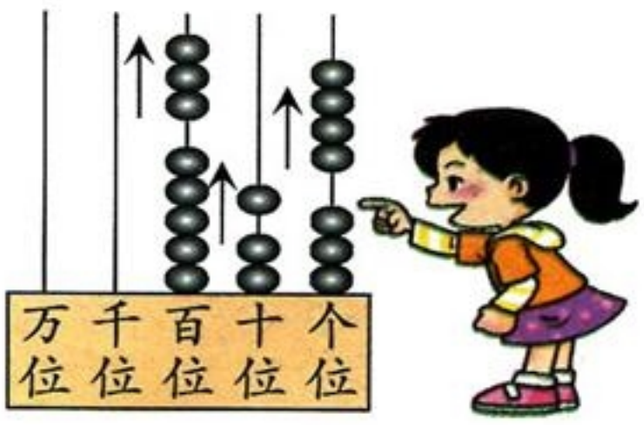


3 上山行了517 m，下山走近路，比上山少行85 m，下山行了多少米？



517−85=□（　　）

$$\begin{array}{r} \dot{5}\ 1\ 7 \\ -\quad 8\ 5 \\ \hline \square\ 3\ 2 \end{array}$$



十位上的数不够减怎么办？

答：下山行了（　　）m。

试一试

$$\begin{array}{r} 609 \\ -413 \\ \hline \end{array} \qquad \begin{array}{r} 348 \\ -278 \\ \hline \end{array}$$

议一议　怎样计算三位数的减法？



微信公众号：电子课本大全

## 4 计算。

713−548=

```
  7  1  3
− 5  4  8
---------
  □  □  5
```

十位上的数怎么算？



试一试

```
  3 3 4
− 2 3 7
-------
```

```
  4 1 4
− 3 5 8
-------
```

## 5 还剩多少个座位？




个位上不够减，而十位上又是0，怎么办？



800−736=□（　　）

```
  8  0  0
− 7  3  6
---------
     □  □
```

个位上减了以后，十位上是几减几呢？



答：还剩（　　）个座位。

试一试

```
  4 0 0
− 3 4 5
-------
```

```
  8 0 5
− 5 2 6
-------
```

## 课堂活动

1. 算一算，说一说。

```
  7 4 3
− 1 7 3
-------
```

```
  4 1 5
− 3 4 8
-------
```



微信公众号：电子课本大全

2. 说一说错在哪里，再改正。

| | | |
|---|---|---|
| 516 | 400 | 705 |
| −368 | −187 | −696 |
| 158 | 387 | 19 |

3. 提出并解决数学问题。




## 练习九

1. 口算。

| | | |
|---|---|---|
| 30−17= | 300＋70＝ | 850−350= |
| 56÷7= | 27÷9= | 710−210= |
| 837−400= | 320−220= | 48÷8= |

2. 计算。

| | | |
|---|---|---|
| 784 | 586 | 624 |
| −342 | −176 | −518 |

3. 计算下面各题，能口算的可以口算。

| | | |
|---|---|---|
| 800−400＝ | 431−120＝ | 740−530＝ |
| 800−430＝ | 431−206＝ | 740−350＝ |



微信公众号：电子课本大全

4. 算一算，填一填。

小康有4元8角，如果买1本笔记本，还剩（　　）；如果买1支钢笔，还差（　　）。

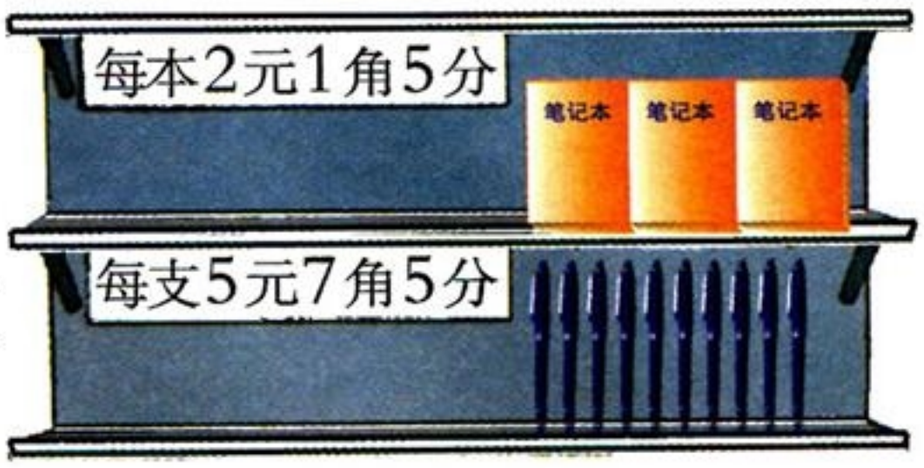


5. 计算。

$$\begin{array}{r} 807 \\ -396 \\ \hline \end{array} \qquad \begin{array}{r} 342 \\ -187 \\ \hline \end{array} \qquad \begin{array}{r} 714 \\ -648 \\ \hline \end{array}$$

6. 计算并验算。

(1) $\begin{array}{r} 375 \\ +457 \\ \hline \end{array}$ 验算：

(2) $\begin{array}{r} 714 \\ -417 \\ \hline \end{array}$ 验算：

7. 下面是火车的部分路线示意图，分别算出石家庄到郑州、济南到青岛的路程。

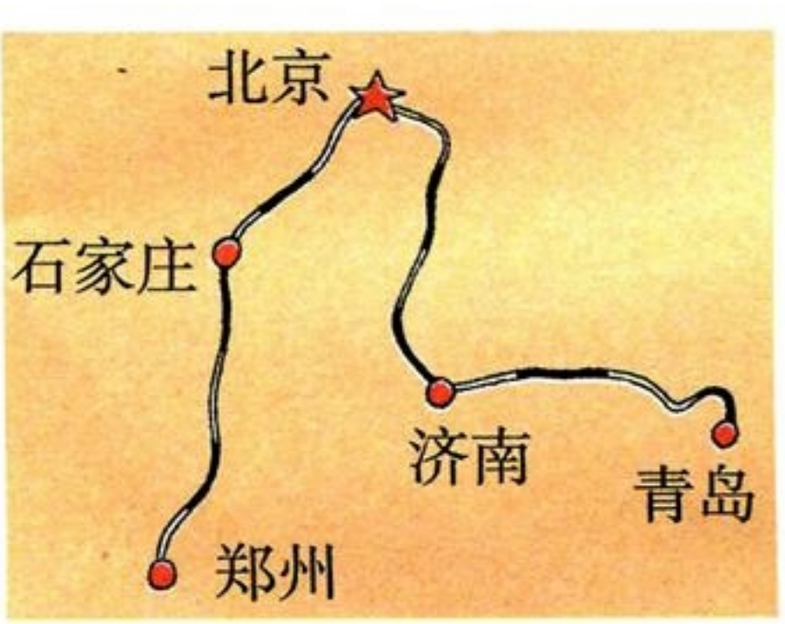


（单位：km）

北京

| | |
|---|---|
| 283 | 石家庄 |
| 695 | 郑州 |

北京

| | |
|---|---|
| 497 | 济南 |
| 890 | 青岛 |

8. 计算。

$$\begin{array}{r} 300 \\ -180 \\ \hline \end{array} \qquad \begin{array}{r} 800 \\ -718 \\ \hline \end{array} \qquad \begin{array}{r} 503 \\ -408 \\ \hline \end{array}$$

9. 养猪场每天需要猪饲料125袋。买回400袋，用了1天，还剩多少袋？

10. 计算。

(1) 375+148　　213+189　　320+184

375−148　　213−189　　320−184

(2) 437+163−246　　800−143+96



微信公众号：电子课本大全

11. 先看王军家本月底的水、电、气表，再填表。



水表

315



电表

926



气表

530

| | 水（吨） | 电（千瓦时） | 气（立方米） |
|---|---|---|---|
| 上月底的读数 | 287 | 758 | 482 |
| 本月底的读数 | | | |
| 本月使用数 | | | |

12. 一辆车从甲城开往乙城。在下表中填出已行路程或剩下路程。

| 已行路程（km） | 100 | 150 | | 250 |
|---|---|---|---|---|
| 剩下路程（km） | 200 | | 100 | |

观察上表，你发现了什么？

13. 填表。

| 小明父亲（岁） | 35 | 40 | |
|---|---|---|---|
| 小明（岁） | 10 | 15 | 20 |
| 相差（岁） | | | |

观察上表，你发现了什么？




在□里填合适的数字，使算式正确。

$$\begin{array}{r} 5\ 3\ \square \\ -\ 2\ \square\ 5 \\ \hline \square\ 4\ 2 \end{array}$$

$$\begin{array}{r} 7\ \square\ \square \\ -\ \square\ \square\ 7 \\ \hline 3\ 3 \end{array}$$



微信公众号：电子课本大全

# 探索规律

**1** 先找规律，再说一说。




**2** 在下列横线上填合适的数、字母或图形，并说明理由。

(1) 1,1,2,1,1,2,1,1,2,_____,_____,_____。

(2) A,A,B,A,A,B,A,A,B,_____,_____,_____。

(3) □,□,▯,□,□,▯,□,□,▯,_____,_____,_____。



(1)的规律是1,1,2的重复。

(1)、(2)、(3)的规律是一样的。



**3** 先找规律，再填空。

1,1,2,3,5,8,____。



有什么规律呢？

我发现，第3个数是前两个数的和……





微信公众号：电子课本大全

## 4 摆一摆，填一填。

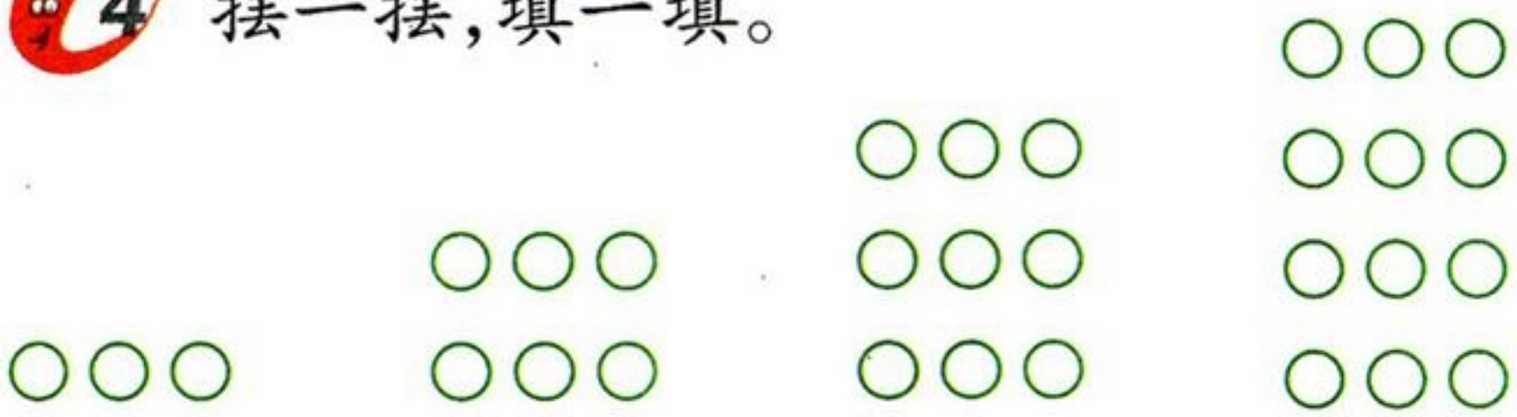

3　　6　　9　　12　　_____

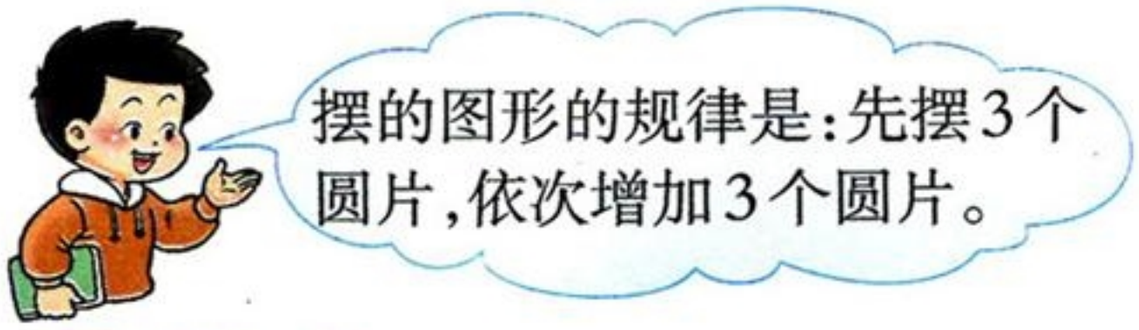





**试一试**　找规律填数。　16，12，8，4，_____。

## 课堂活动

1. 说说生活中的数学规律。

2. 按一定的规律摆一摆，说一说。




3. 照图摆一摆，说一说。

(1)



(2)








微信公众号：电子课本大全

# 练习十

1. 找规律，画一画。

(1)△，□，○，△，□，○，△，□，○，＿＿，＿＿，＿＿。

(2)△△，▲，▲，△△，▲，▲，△△，▲，▲，＿＿，＿＿，＿＿。

2. 说一说有什么规律。

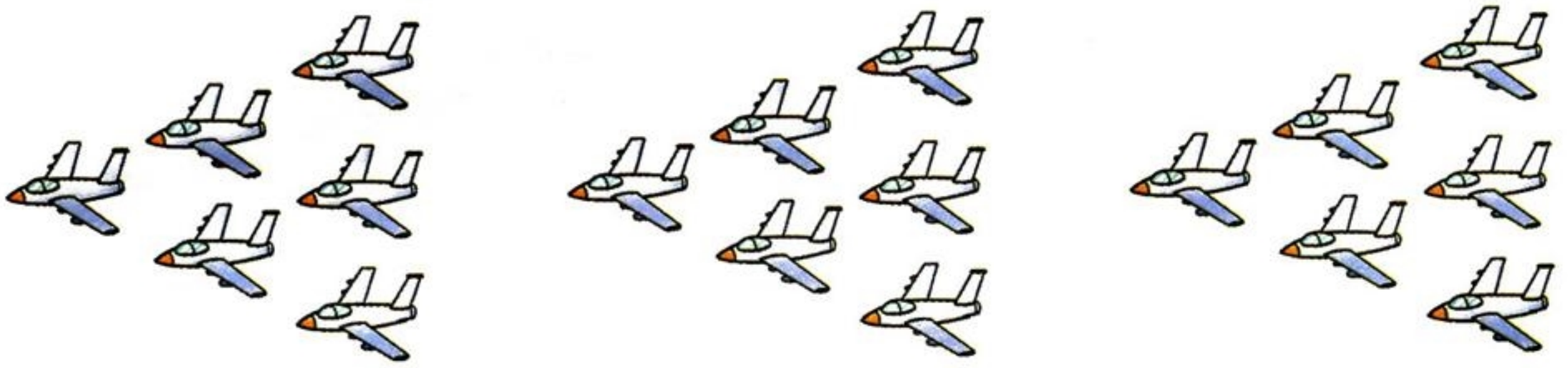

3. 先找规律，再填合适的数。

(1) 5,5,10,5,5,10,5,5,10，＿＿，＿＿，＿＿。

(2) 1,2,3,1,2,3,1,2,3，＿＿，＿＿，＿＿。

(3) 4,8,12,16，＿＿。

(4) 30,25,20,15，＿＿,5。

(5) 4,6,10,16,26，＿＿。

(6) 20,30,50,80,130，＿＿。

4. 选出4个数组成一组有规律的数。






思考题

按规律填数。你有不同的填法吗？

10,20，＿＿，＿＿，＿＿，＿＿。



微信公众号：电子课本大全

# 问题解决

## 1 还剩多少元？



















300−78=222(元)

222−152=70(元)

78+152=230(元)

300−230=70(元)




答：还剩(　　)元。

**议一议** 说说解决这个问题的过程是怎样的。

**试一试** 1本故事书有480页。小明第1天看了108页，第2天看了172页，还剩多少页？



微信公众号：电子课本大全

## 2 鸭和鹅一共有多少只？




$$680-375=305(只)$$

$$680+305=985(只)$$

答：鸭和鹅一共有(　　)只。

**试一试** 果园里有梨树523棵，桃树比梨树多297棵。桃树和梨树一共有多少棵？

## 课堂活动

你能提出并解决哪些数学问题？并说说解决问题的方法。

(1)小明从家乡到重庆，先乘汽车，再乘动车。

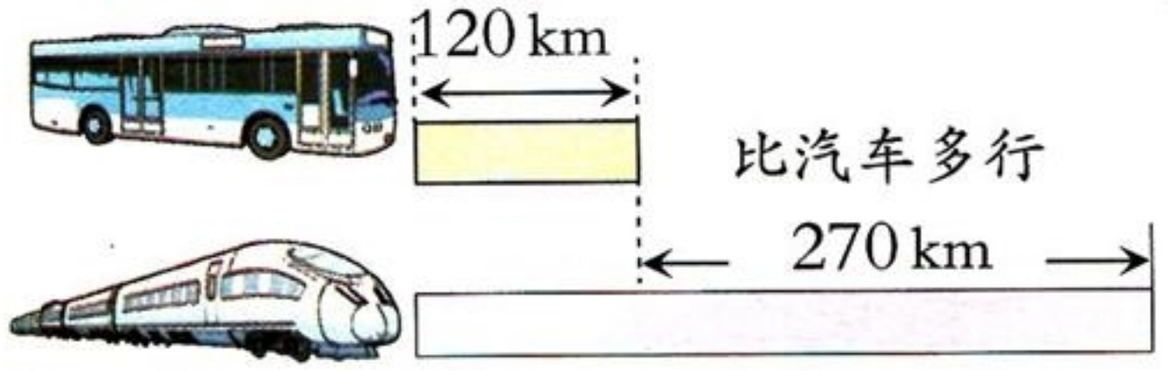


(2)阅览室里原有138人。






微信公众号：电子课本大全

## 3 用10 m长的绳子做跳绳。可以怎么做？



长绳4 m



短绳2 m



都做成短绳，就看10米里面有几个2米。

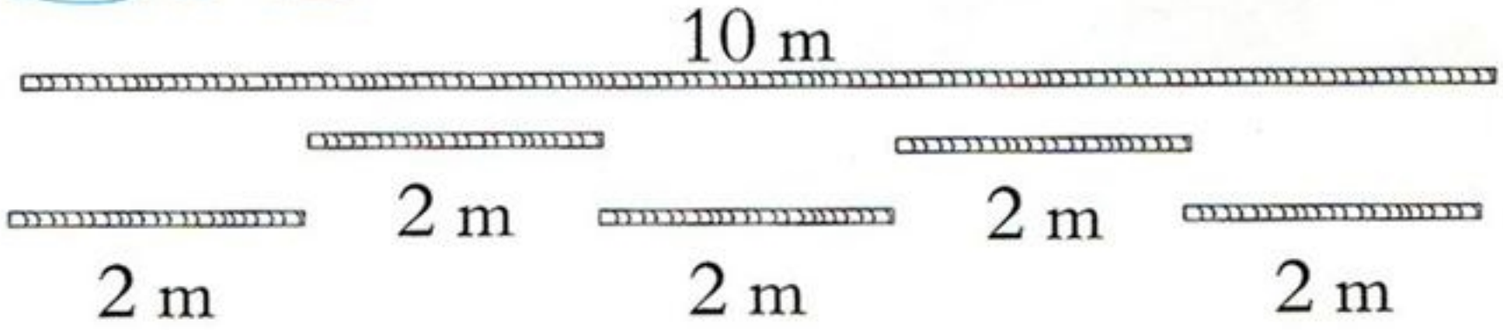


10÷2=5(根)



先做1根长绳，再做……

10−4=6(m)

6÷2=3(根)

先做2根长绳，再做……



4×2=8(m)

10−8=2(m)

还可以这样做。



| 长绳（根） | 用去长度（m） | 剩下长度（m） | 短绳（根） |
|---|---|---|---|
| 0 | 0 | 10 | 5 |
| 1 | 4 | 6 | |
| 2 | | | |

**试一试** 36名同学去阅览室看书。长凳每张坐6人，短凳每张坐4人，可以怎样准备凳子？



微信公众号：电子课本大全

## 课堂活动

逛公园。




(1)小丽家买门票要多少元?

(2)你还能提出并解决哪些数学问题?

## 练习十一

1. 口算。

| | | |
|---|---|---|
| 37+40= | 350−150= | 157+40= |
| 32÷4= | 76−45= | 8×2= |
| 16÷4= | 5+65= | 5×9= |

2. 二年级共有187人参加以下兴趣组的活动(每人只参加一组)。科技组有多少人?

| | | |
|---|---|---|
|  |  |  |
| 体育组68人 | 艺术组54人 | 科技组（　　）人 |

3. 涪陵到宜昌航线长528km。小明爸爸从涪陵乘船已经到达万州，还要行多少千米才能到达宜昌?






微信公众号：电子课本大全

4. 小猴摘桃。



小猴第1天摘30个桃，以后每天都比前一天多摘10个桃。



(1)第3天摘了多少个桃？第5天呢？

(2)你还能提出并解决哪些数学问题？

5. 小兔姐妹上山采蘑菇，一共采了多少朵？




6. 江南车站每天发出客车365次，江北车站每天比江南车站多发出客车80次。江南和江北两个车站每天一共发出客车多少次？

7. 一共是多少元？





8.

| 苹果 | 吃了 | 还剩 |
| --- | --- | --- |
|  100个　100个　100个 | 250个 | (　　)个 |



微信公众号：电子课本大全

9. 展览馆里原有450人。




(1)9:00～10:00,进去50人,出来50人,这时展览馆有多少人?

(2)10:00～11:00,进去100人,出来80人,这时展览馆有多少人?

(3)11:00～12:00,进去100人,出来150人,这时展览馆有多少人?

你认为选择哪个时段去参观最合适?

10. 神州家电城3月份售出电视机743台。




(1)4月份比3月份多售出205台,3月份和4月份一共售出电视机多少台?

(2)5月份比4月份少售出68台,3月份和5月份一共售出电视机多少台?

11. 星期天,24个同学去公园坐游船。他们可以怎样租船?




12. 母亲节到了,兰兰用36元买花送妈妈。




(1)只买康乃馨,可买(　　)枝。

(2)只买百合,可买(　　)枝。

(3)两种都买,可买(　　)枝康乃馨和(　　)枝百合。



微信公众号:电子课本大全

# 整理与复习




1. 用竖式计算，并说一说计算时应注意什么。

587+239　　424−286

2. 说出解决问题的过程和方法。



橘子100个




(1)橘子和苹果一共有多少个？

(2)你还能提出并解决哪些数学问题？

## 练习十二

1. 口算。

| | | |
|---|---|---|
| 300−150= | 300+105= | 80+120= |
| 315−210= | 800−600= | 205+50= |

2. 计算。

| | | | |
|---|---|---|---|
| 324 | 451 | 281 | 800 |
| +256 | +362 | −154 | −752 |



微信公众号：电子课本大全

3. 计算。

479+494=　　147+358=　　900−427−373=

743−457=　　923 − 764=　　500+378−527=

4. 下面的计算对吗？如果有错误，请改正。

$$\begin{array}{r} 425 \\ +356 \\ \hline 771 \end{array} \qquad \begin{array}{r} 830 \\ -315 \\ \hline 525 \end{array} \qquad \begin{array}{r} 604 \\ -509 \\ \hline 95 \end{array}$$

5. 填空。

（1）一个三位数减去99，差最小是(　　)。

（2）一个加数增加5，另一个加数减少5，它们的和(　　)。

6. 二年级全体同学去科技馆看电影。估算一下座位够吗。




7. 填出合适的数、字母或图形，并说明理由。

（1）J　Q　K，J　Q　K，J　Q　K，_____。

（2）△△○，△△○，△△○，_____。

（3）92，_____，96，98，_____。

（4）52，48，44，_____，36，_____。

（5）3，6，9，_____，_____，_____。

8. 实际比计划多植树多少棵？






微信公众号：电子课本大全

9. 填表。

| 学　校 | 男生（人） | 女生（人） | 全校（人） |
|---|---|---|---|
| 东川小学 | 475 | 448 | |
| 石峰小学 | 449 | | 907 |
| 南江小学 | | 445 | 931 |

10. 渝西飞行护林队给240个镇进行森林防虫。




11. 扎西家养了山羊306只，养的绵羊比山羊少86只。扎西家的绵羊和山羊一共有多少只？

12. 二年级24名同学参加舞蹈排练。按照8人1组或4人1组编排队形，可以怎样编排？

13. 下面是一个人民币活期存折的一部分，填出3次余额。

| 日期 | 存入（元） | 支出（元） | 余额（元） |
|---|---|---|---|
| 2011−04−10 | 947 | — | 947 |
| 2011−04−20 | — | 570 | |
| 2011−04−25 | 485 | — | |
| 2011−04−30 | — | 675 | |




1张桌子配1把椅子。

（1）1次搬完8套桌椅，一共要多少名同学？

（2）安排40名同学搬，1次一共可以搬多少套桌椅？多少人搬桌子，多少人搬椅子？





微信公众号：电子课本大全




# 生活中的数学规律




1 动物的花纹有规律。





这些花的瓣数组成的规律是：1，2，3，5，8，13。

2 花的瓣数有规律。



3 丝织品中有规律。

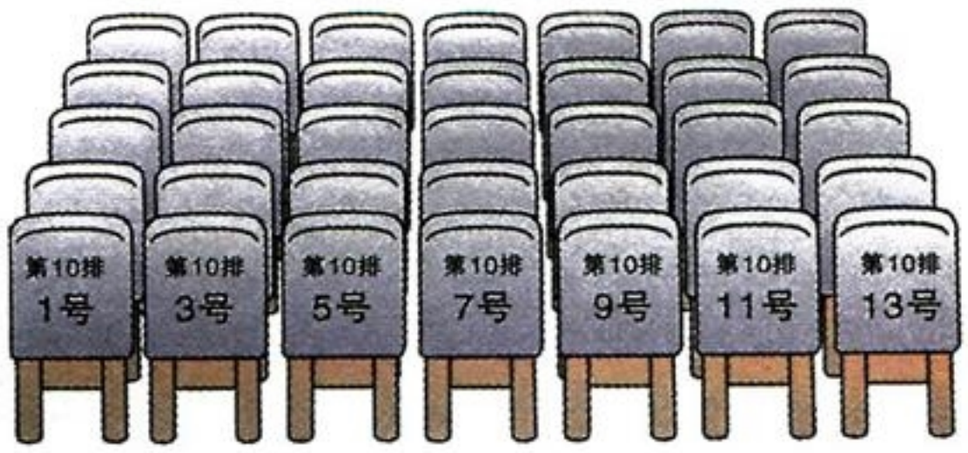


4 电影院的座位号有规律。






5 课外活动中有规律。



微信公众号：电子课本大全

综合与实践

# 参观南村养鸡场






微信公众号：电子课本大全

## 算一算，肉鸡有多少只？




## 数一数，鸡蛋有多少个？




## 算一算，种鸡比肉鸡少多少只？




## 议一议，还能提出哪些数学问题？




微信公众号：电子课本大全

# 四 认识图形







我们知道黑板的面是长方形，方巾的面是正方形。

长方形




正方形




## 1 长方形、正方形各有什么特征？







长方形的对边相等，4个角都是直角。

正方形的4条边都相等，4个角都是直角。



微信公众号：电子课本大全

## 2 看一看，说一说。







平行四边形

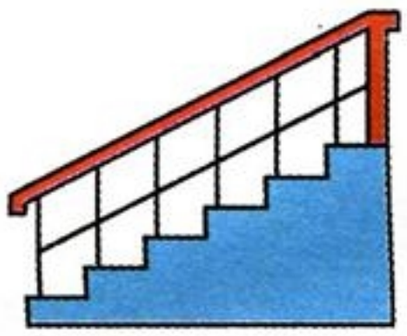



## 课堂活动

1. 在钉子板上围长方形和正方形。

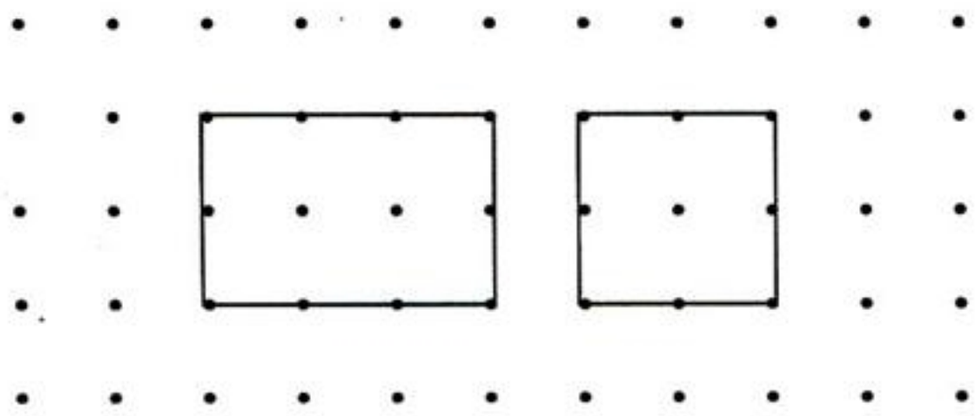

2. 照右图折一折，剪出1个平行四边形。

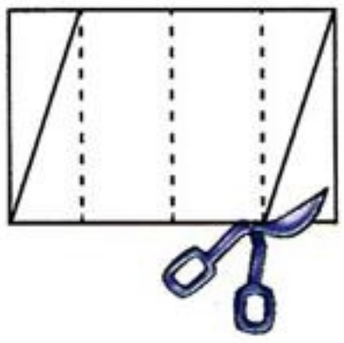

3. 4人1组，用两副一样的三角板分别拼出正方形、长方形和平行四边形。

4. 用一样长的小棒围1个正方形和1个长方形。



微信公众号：电子课本大全

## 3 看一看，拼一拼。



## 4 拼一拼，说一说。

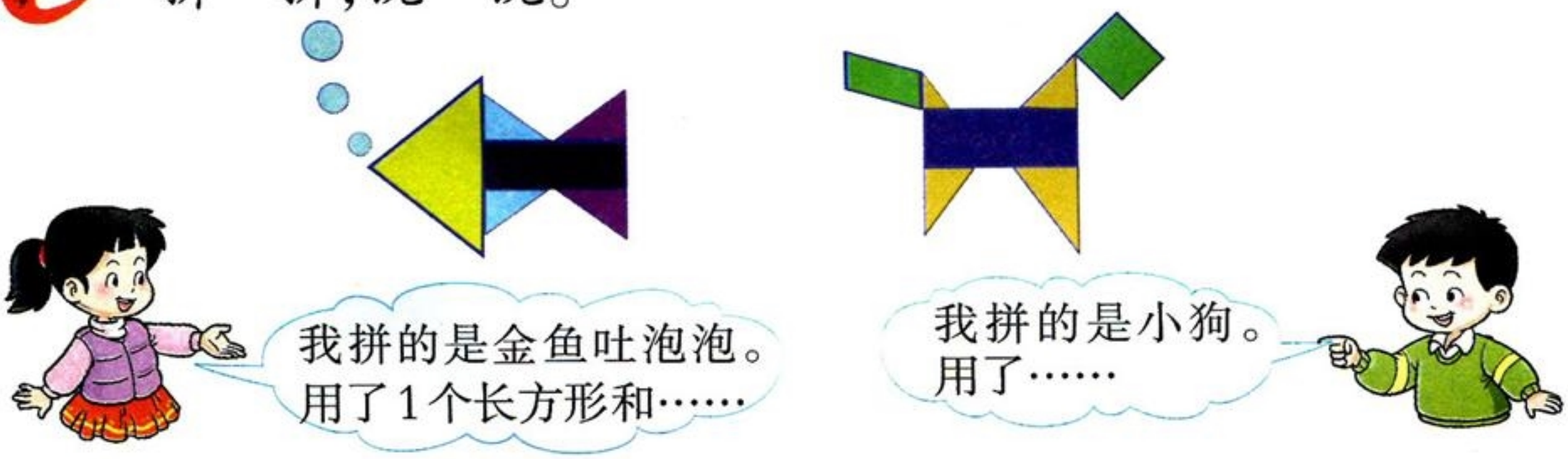


## 课堂活动

1. 先自己拼，再与同桌交流。

(1)用4个完全一样的小正方形，拼成1个大正方形。能拼成长方形吗？

(2)用16个完全一样的小正方形，能拼成大正方形吗？能拼成长方形吗？

2. 把107页上的七巧板剪下来，拼一拼。





微信公众号：电子课本大全

# 练习十三

1. 给长方形涂上红色，给正方形涂上绿色。

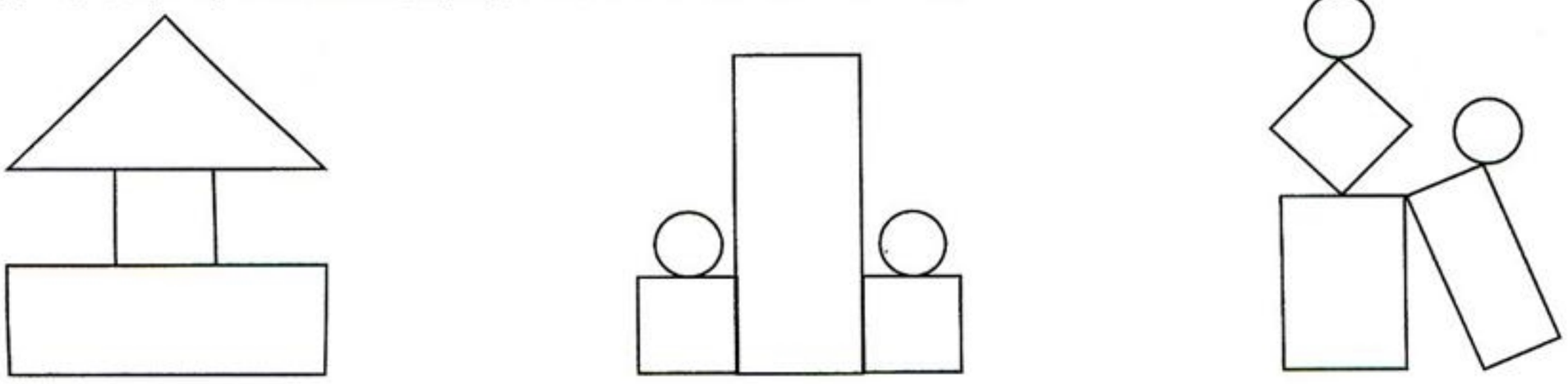

2. 在方格图上画出长方形和正方形。

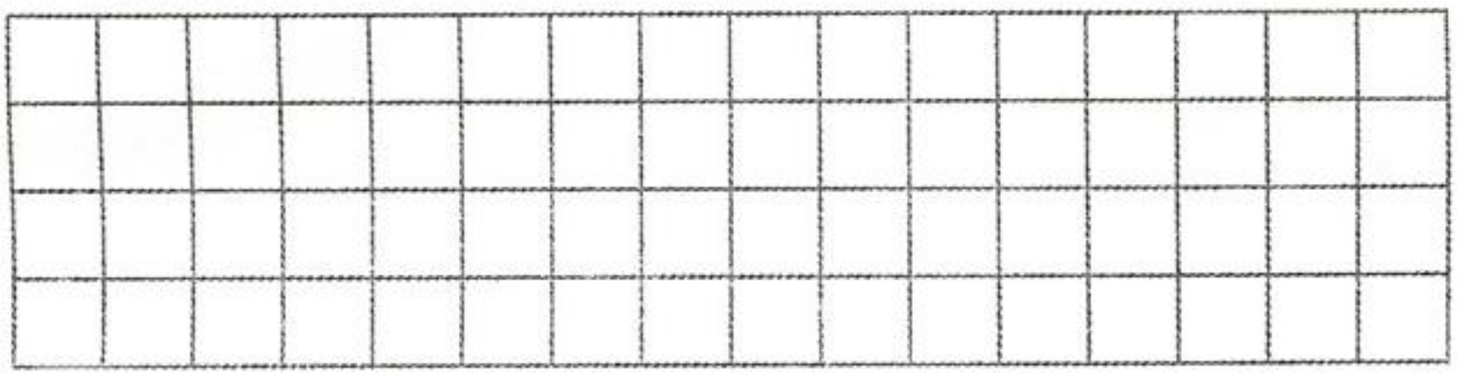

3. 下面哪些图形是平行四边形？把它涂上颜色。

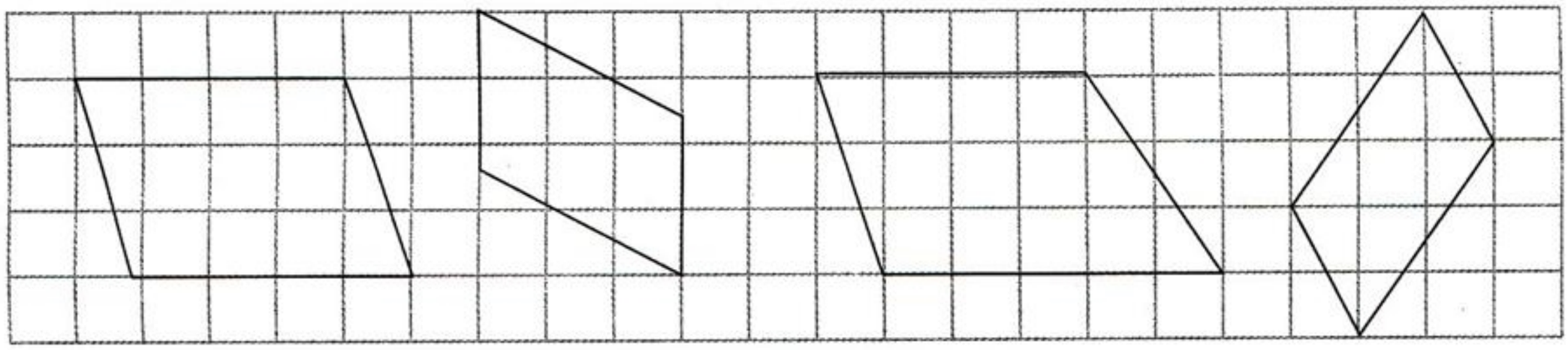

4. 在（　）内填适当的数。




5.

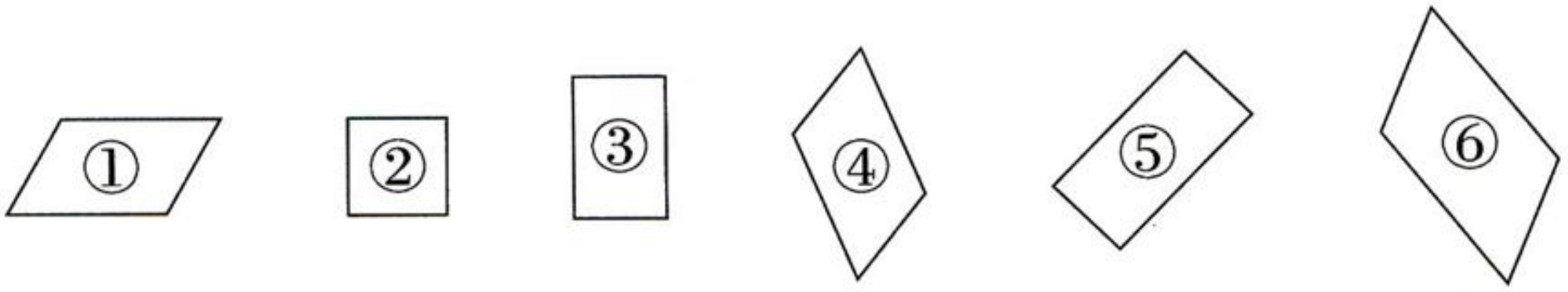


（　　）是长方形，（　　）是正方形，（　　）是平行四边形。

说一说你是怎样辨认长方形和正方形的。



微信公众号：电子课本大全

6. 右图怎样改才能成为平行四边形？

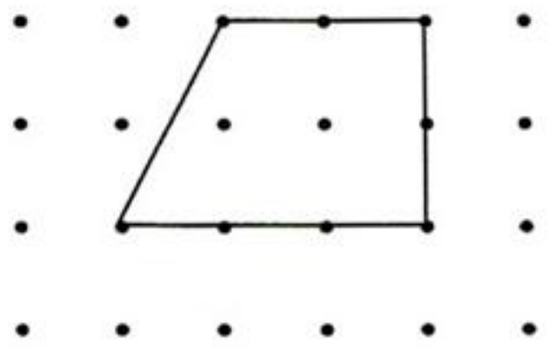

7. 估一估数学书封面的长、宽大约各是多少厘米，然后再量一量。

8. 用直尺画1条线，把右边的图形分成1个长方形和1个三角形。

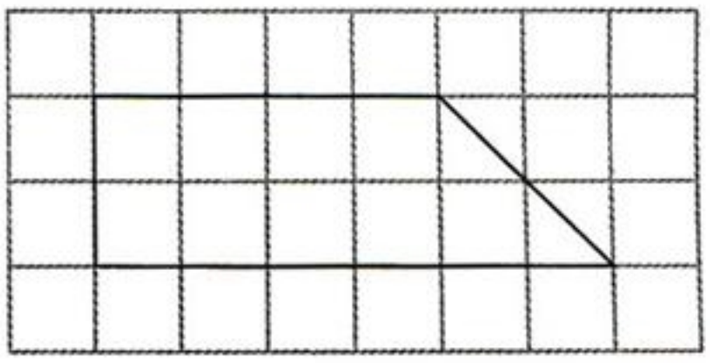

9. 右图中大、小两个涂色部分都是正方形。空白长方形的长是（　　）cm，宽是（　　）cm。

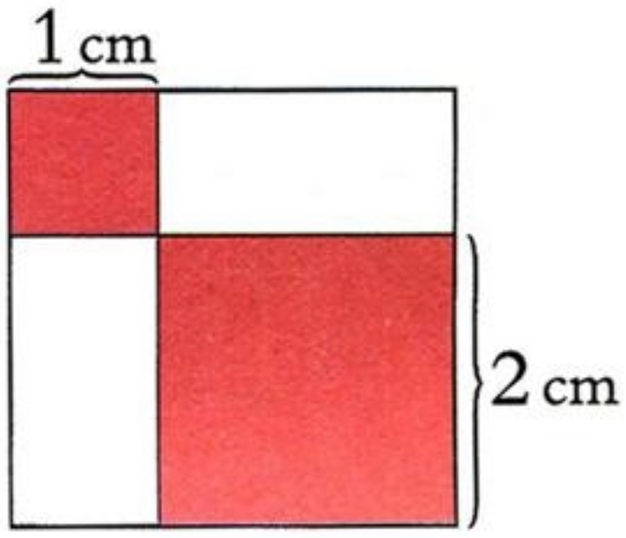


10. 右图是1个长方形，在图中截1个最大的正方形。

（1）截出的正方形，边长是（　　）cm。

（2）剩下的图形是1个长方形，这个长方形的长是（　　）cm，宽是（　　）cm。

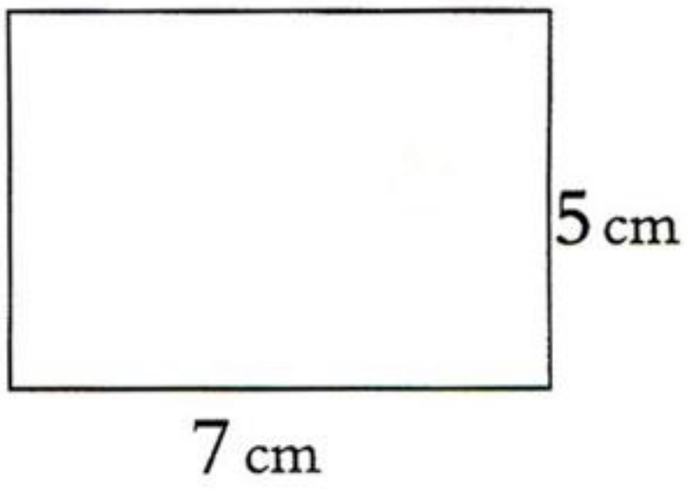


11. 右边是1张平行四边形的纸，请折1次，剪1次，使其成为：

（1）两个平行四边形。

（2）两个三角形。






数一数：下图中有（　　）个平行四边形。





微信公众号：电子课本大全




# 七 巧 板



1 七巧板是由5个三角形、1个平行四边形和1个正方形组成的。



2 七巧板是由我国古代劳动人民发明的。



3 七巧板在国内外广为流传。欧美人称它为“唐图”,英国的剑桥大学还珍藏着一本《七巧新谱》。



4 七巧板是一种智力玩具,所以也称“智慧板”。



5 用七巧板可以拼出各种各样有趣的图案。



微信公众号：电子课本大全




# 有余数的除法

## 1 12枝花，平均插在3个花瓶里，每个花瓶插几枝？








$12 \div 3 = 4$（枝）

$$\begin{array}{r} 4 \\ 3\overline{)12} \\ 12 \\ \hline 0 \end{array}$$

4……商　除数……3　12……被除数




答：每个花瓶插4枝。

**试一试**

$24 \div 8 = \square$

$$\begin{array}{r} \square \\ 8\overline{)24} \\ \square\square \\ \hline \square \end{array}$$

$42 \div 6 = \square$

$$\begin{array}{r} \square \\ 6\overline{)42} \\ \square\square \\ \hline \square \end{array}$$

## 2 每只小猴分5个桃，这些桃可以分给几只小猴？




$45 \div 5 = 9$（只）

$$\begin{array}{r} 9 \\ 5\overline{)45} \\ 45 \\ \hline 0 \end{array}$$

45……5乘9的积　0……没有剩余




答：可以分给9只小猴。



微信公众号：电子课本大全

## 课堂活动

1. 我说横式，你写竖式。







2. 有36颗糖，如果每袋装4颗、6颗、9颗，各可以装几袋？（先说说用竖式怎么算，再用竖式算一算。）

□ ⟌ □□　　□ ⟌ □□　　⟌

3 拿出18个小圆片分一分，填一填。



（1）每人分6个，可以分给（　　）人。

18÷6=3（人）




（2）每人分7个，可以分给（　　）人，还剩（　　）个。

18÷7=2（人）……4（个）

余数




**试一试**

每人分7个，拿19个分一分。可以分给几人？还剩几个？拿20个、21个、22个……分一分，你有什么发现？






微信公众号：电子课本大全

## 4 平均每筒可以装几个？还剩几个？




57÷9=____(个)……_____(个)

```
      6
   9 ⟌ 5 7
     5 4
     ---
       3……余数
```




答：平均每筒可以装(　　)个，还剩(　　)个。

### 课堂活动

分一分，填一填。

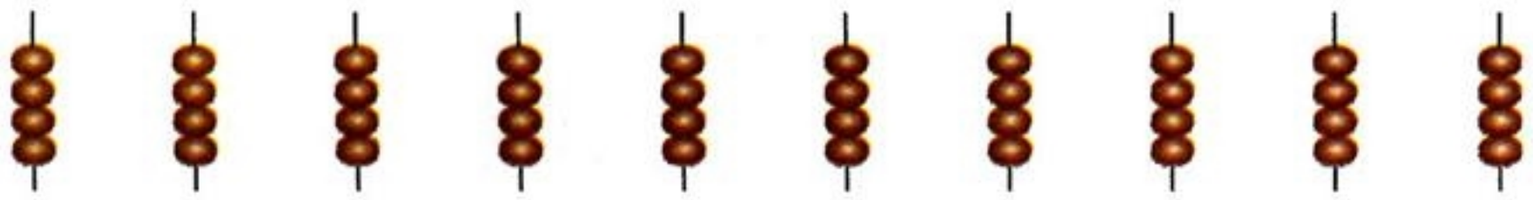

(1)每人分2串，可以分给(　　)人。

_____÷_____=_____(人)

(2)每人分3串，可以分给(　　)人，还剩(　　)串。

_____÷_____=_____(人)……_____(串)

(3)每人分4串，可以分给(　　)人，还剩(　　)串。

_____÷_____=_____(人)……_____(串)

(4)每人分6串，可以分给(　　)人，还剩(　　)串。

_____÷_____=_____(人)……_____(串)



微信公众号：电子课本大全

## 5 计算。 50÷6=_____……_____



我这样算。

```
    7
6 ) 5 0
    4 2
    ---
      8
```

```
    8
6 ) 5 0
    4 8
    ---
      2
```

我这样算。



**议一议** 哪位同学的计算是正确的？为什么？

**试一试** $4\overline{)27}$　　$7\overline{)58}$　　$9\overline{)80}$

## 课堂活动

说说错在哪里，再改正。



```
    7
6 ) 4 9
    4 2
    ---
      7
```

改正：

```
    6
4 ) 2 8
    2 4
    ---
      4
```

改正：

```
    7
8 ) 5 6
    5 6
    ---
      0
```

改正：

```
    2
9 ) 1 7
    1 8
    ---
      1
```

改正：

## 练习十四

1. 口算。

| | | | |
|---|---|---|---|
| 48÷8= | 56÷7= | 27÷9= | 81÷9= |
| 32÷4= | 45÷9= | 36÷6= | 72÷8= |



微信公众号：电子课本大全

2. 卡片上最大能填几？

□×6<57　　□×7<43　　□×5<38

□×4<31　　□×8<26　　□×9<60

3. 用竖式计算。

| | | | |
|---|---|---|---|
| 26÷4 | 17÷3 | 80÷9 | 37÷5 |
| 62÷7 | 70÷8 | 31÷6 | 19÷2 |

4. 直接写出商和余数。

25÷8=□……□　　36÷5=□……□　　64÷9=□……□

29÷6=□……□　　49÷8=□……□　　52÷7=□……□

5. 有48人去租船。




（1）全部坐小船，可以坐满几只？

□÷□=□（　　）

（2）全部坐大船，可以坐满几只？还剩多少人？

□÷□=□（　　）……□（　　）

6. 有12个羽毛球，平均分给5人，每人分多少个？还剩多少个？



□÷□=□（　　）……□（　　）



微信公众号：电子课本大全

7. 送信(连线)。

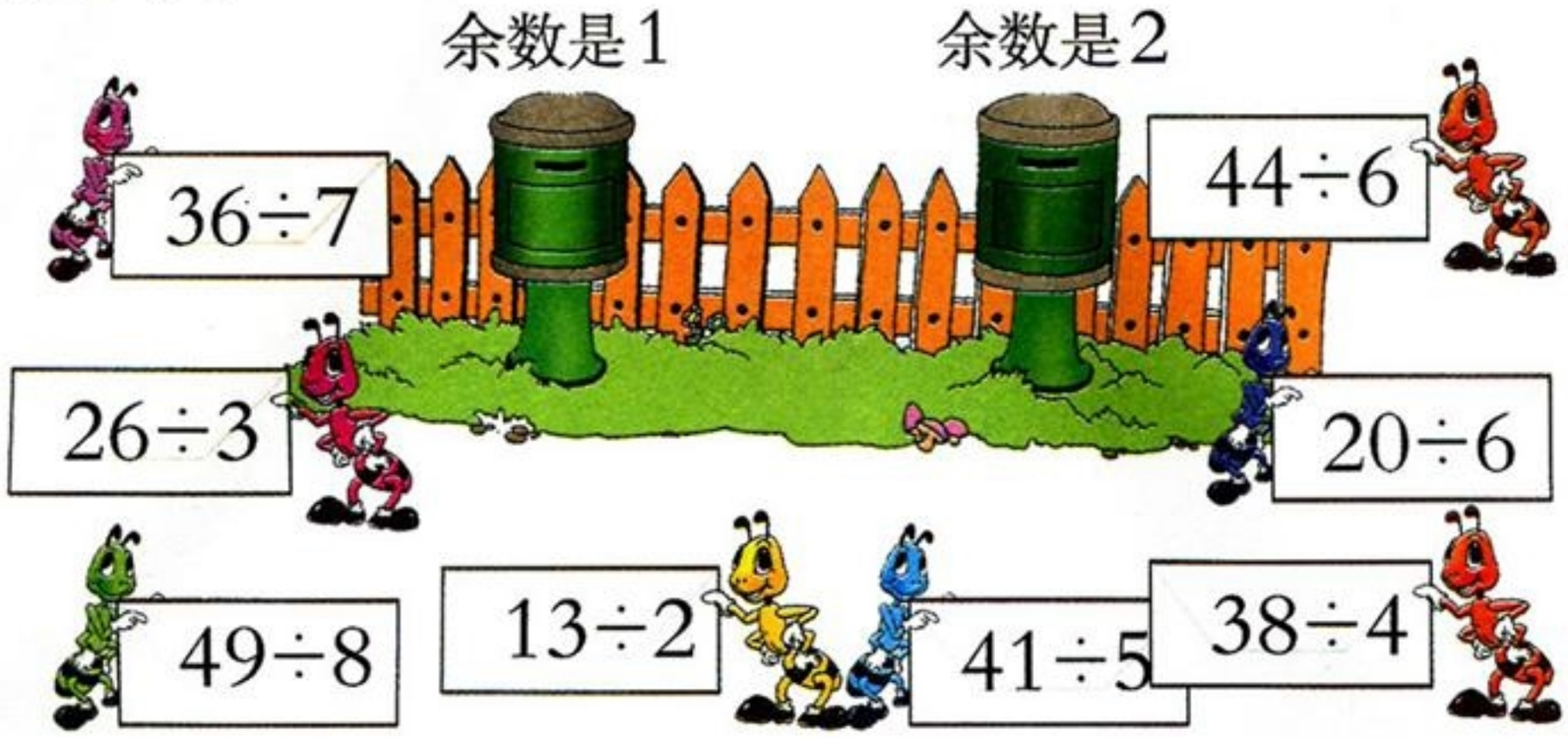


8. 钉扣子。



22颗扣子,能钉多少件上衣?还剩几颗?

9. 二年级48人分组跳绳。

每5人1组,可以分成几组?还剩几人?



10. 有62盏日光灯。




思考题

一堆苹果2个2个地分剩1个,3个3个地分也剩1个,这堆苹果可能有多少个?



微信公众号:电子课本大全



# 六 时、分、秒

## 时、分、秒



2010年10月1日18时59分57秒，“嫦娥二号”卫星在西昌卫星发射中心发射。

**1** 看钟面。






看钟面，你知道些什么？

钟面上有几个大格？
1个大格有几个小格？



分针走1小格的时间是1分，时针走1大格的时间是1时。

**议一议**



1时是多少分呢？



拨一拨：时针走1大格，分针正好走（　　）圈，是（　　）小格，也就是（　　）分。

1时＝60分

时可用h表示，分可用min表示。



微信公众号：电子课本大全

## 2 1分的时间能做什么？




### 试一试



1分大约击掌
（　　）次。



1分大约跳
（　　）下。



1分大约写字
（　　）个。

## 3 1时有多长？



第1节课间
休息10分



第2节上课40分



第2节课间
休息10分

10+40+10=60（分）　　60分=1时

从第1节课下课到第3节课上课就是1时。

### 议一议






微信公众号：电子课本大全

## 4 1秒有多长？



我拍皮球1分大约60下，拍1下的时间大约是……

“滴答”1次是1秒。



计量比1分还短的时间常用秒作单位。钟面上，秒针走1小格是1秒。

**议一议**



秒针走了1圈。



1分＝60秒

秒可用s表示。



分针正好走1小格。

**议一议**






电子钟上的时刻是9时29分30秒。

## 课堂活动

1. 做一做，大约需要多长时间？



读一首儿歌



走10步路



微信公众号：电子课本大全

2. 你能在1分内完成吗?

| | | | |
|---|---|---|---|
| 4×5= | 8×7= | 9×3= | 7×6= |
| 12÷6= | 24÷3= | 64÷8= | 72÷9= |

3. 填一填。

儿童跑50m大约要10(　　)。

课间休息时间是10(　　)。

儿童每天的睡眠时间大约是10(　　)。

## 5 认一认,说一说。






时针超过2,不到3,是2时多;分针指向11,是55分。

2时55分,记作2:55。

## 试一试 写出钟面上的时间。



4时15分

4:15



_____

_____:_____



_____

_____:_____



3时9分

3:09



微信公众号:电子课本大全

## 课堂活动

1. 我拨你说。




2. 把小动物读错的时间改正过来。




3. 说一说小强一天的活动。





微信公众号：电子课本大全

4. 连一连。

| 11时48分 | 10时差4分 | 4时6分 | 6时15分 |
| --- | --- | --- | --- |
|  |  |  |  |
| 9:56 | 11:48 | 6:15 | 4:06 |

## 练习十五

1. 试一试。



升国旗大约用(　　)分。





做一套眼保健操大约用(　　)分。



洗一条手绢大约用(　　)分。

2. 在(　　)里填合适的单位名称。

(1)中央电视台“大风车”节目从开始到结束用了30(　　)。

(2)小明下午在校的时间大约有2(　　)。

(3)小强在操场跑60 m,大约用了8(　　)。

(4)小芳算20道口算题,大约用了3(　　)。

3. 认一认。



(　　)



(　　)



微信公众号：电子课本大全

4. 在钟面上拨出下面的时刻。



7时20分　　9时25分

12时5分　　11时42分

5. 连一连。



















6. 写一写。



(　　)时(　　)分

_____:_____



(　　)时(　　)分

_____:_____



(　　)时(　　)分

_____:_____



(　　)时(　　)分

_____:_____

7. 看时间，在钟面上画出分针。

1:15



7:50



3:05



9:30





微信公众号：电子课本大全

# 问题解决

## 1 小动物赛跑，谁跑得最快？




用了120秒，


用了3分，


用了1时。







2分<3分　　3分<60分

答：小狗跑得最快。

## 课堂活动

1. 我问你答。







2. 填一填。

60分＝(　　)时　　2分＝(　　)秒

180秒＝(　　)分　　3时＝(　　)分



微信公众号：电子课本大全

## 2 同学们下午2:00～4:00在游乐园玩，玩了多长时间？






答：玩了（　　）时。

## 3 小红从家到学校用了多长时间？






答：小红从家到学校用了（　　）分。

## 填一填

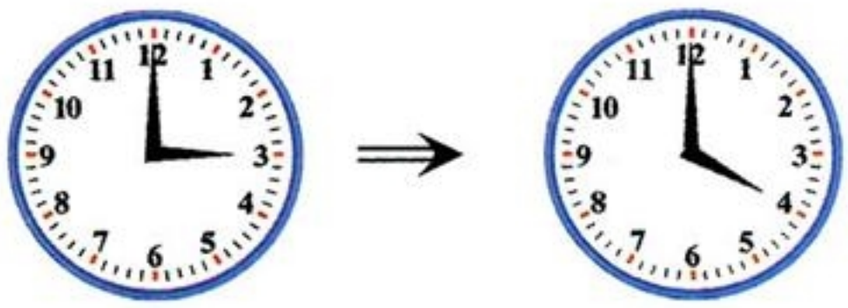

经过了（　　）时。

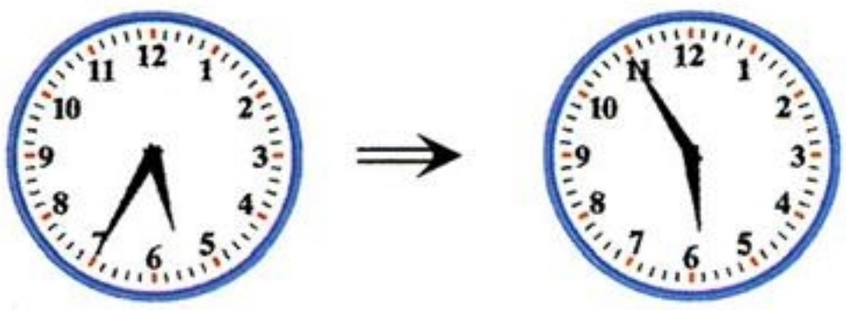

经过了（　　）分。



微信公众号：电子课本大全

## 4 春季运动会拔河比赛用了多长时间？



8:30～9:40




答：春季运动会拔河比赛用了（　　）。

**试一试** 9:40～11:50进行跳高比赛，用了多长时间？

## 课堂活动

1. 说一说。



我6时开始跑步，7时结束，锻炼了……

下午第1节课2时10分上课，2时50分下课，用了……



下午4时50分离校，10分后到家，到家的时间是……



2. 小强的星期天。

赶集：上午8:00～10:00，用了（　　）。

玩耍：上午10:10～11:30，用了（　　）。

看书：下午2:00～2:50，用了（　　）。

放牛：下午3:20～4:40，用了（　　）。



微信公众号：电子课本大全

3. 估一估，你做下面每件事用多长时间？



（　　）



（　　）



（　　）

## 练习十六

1. 根据自己一天的活动填表。

| 上午 | | | 下午 | | |
|---|---|---|---|---|---|
| 起床 | 上学 | 放学 | 上学 | 放学 | 睡觉 |
| 7:00 | | | | | |

2. 在○里填“>”“<”或“=”。

2分○60秒　　4时○40分　　1时○100分

130秒○2分　　170分○2时　　3分○180秒

3. 这列火车从东城到西城用了多长时间？

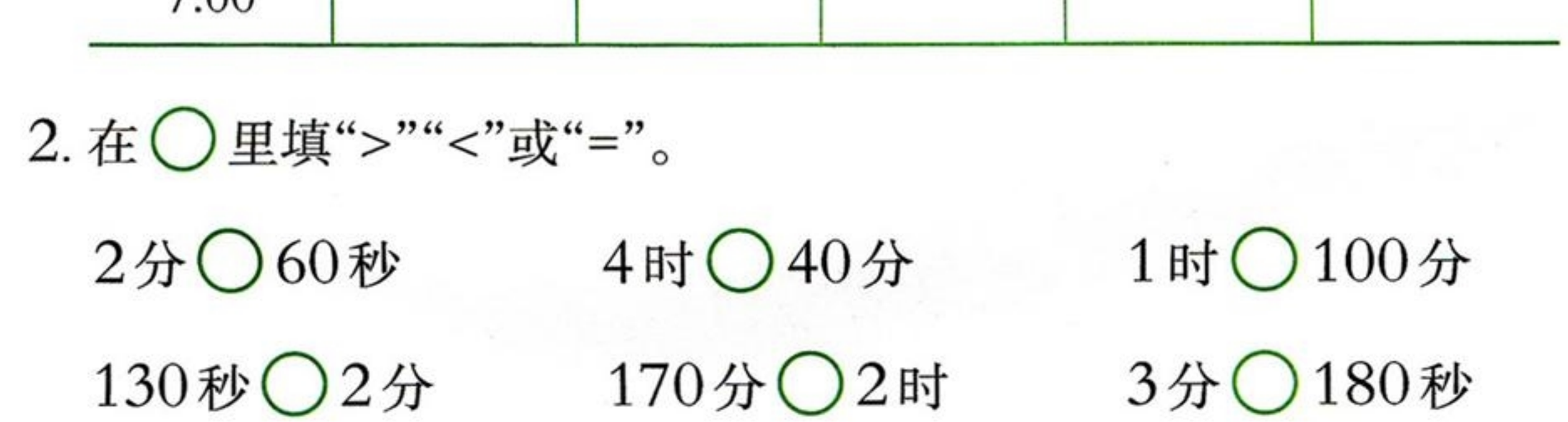




微信公众号：电子课本大全

4. 填时间。

(1)小红在少年宫参加活动,9时开始,11时结束,活动时间是(　　)时。

(2)课外活动从下午4:00开始,4:40结束,课外活动的时间是(　　)分。

(3)学校第3节课10:30上课,1节课40分,这节课的下课时间是(　　)。

(4)一场电影10:50结束,这场电影放映1时40分,这场电影开始的时间是(　　)。

5. 这场比赛用了多少时间?




6. 停车场1辆车每时收费2元。爸爸的停车费应该是多少?







中央电视台“新闻30分”栏目从中午12时开始,“芝麻开门”栏目从下午5时30分开始。这两个节目开始的时间相隔多长?



微信公众号:电子课本大全

# 整理与复习




1. 说说是什么时刻。



2008年5月12日
四川汶川地震。




2011年11月3日
“神舟八号”飞船与“天宫一号”飞行器第一次对接。

2. 小刚去少年活动中心，一共用了多少时间？






## 练习十七

1. 填一填。

(1)上1节课是40(　　)。

(2)看1场电影大约是2(　　)。

(3)走1层楼大约是15(　　)。



微信公众号：电子课本大全

## 2. 写一写。







_____:_____　　_____:_____　　_____:_____

## 3. 画出时针和分针。



3:15



4:00



12:20



6:00

## 4. 打完同一篇文章，看谁快？



①1时2分



②58分 5秒



③1时20秒

## 5. 在○里填“＞”“＜”或“＝”。

120秒○2分　　3时○90分　　40秒○40时

60分○6时　　30秒○1分　　36分○1时

## 6. “和谐号”动车从重庆到成都要经过多长时间？






微信公众号：电子课本大全




# 收集与整理

## 1 分一分。

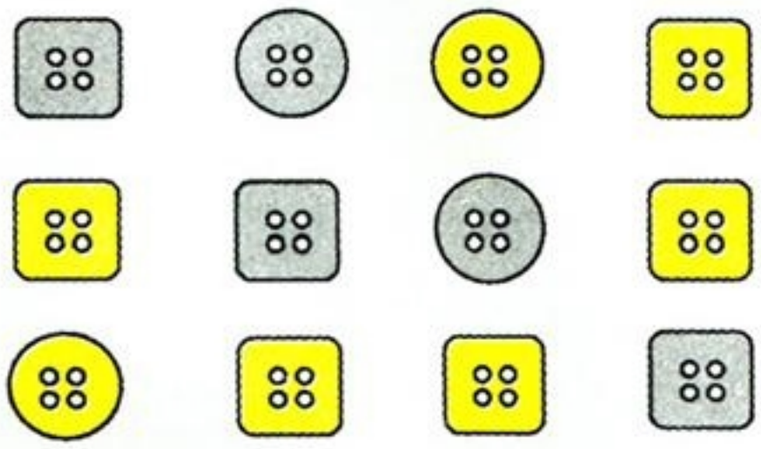




1. 黄色的纽扣有(　　)颗，灰色的纽扣有(　　)颗。
2. 圆形的纽扣有(　　)颗，方形的纽扣有(　　)颗。
3. 灰色的圆形纽扣有(　　)颗，灰色的方形纽扣有(　　)颗，
   黄色的圆形纽扣有(　　)颗，黄色的方形纽扣有(　　)颗。



微信公众号：电子课本大全

## 2 分一分，数一数。








| 香蕉 | 梨 | 桃 | 苹果 |
| --- | --- | --- | --- |
| （　）个 | （　）个 | （　）个 | （　）个 |




| 香蕉 | 梨 | 桃 | 苹果 |
| --- | --- | --- | --- |
| ○<br>○ | ○<br>○<br>○ | ○<br>○<br>○ | ○<br>○<br>○<br>○<br>○ |
| （　）个 | （　）个 | （　）个 | （　）个 |

**说一说** 哪种方法更简便？哪种水果最多？哪种水果最少？

## 课堂活动

1. 玩扑克牌游戏。




还可以怎样分？在组内分一分，说一说。



微信公众号：电子课本大全

2. 下面是二(1)班第1小组的同学整理出来的小动物卡片。

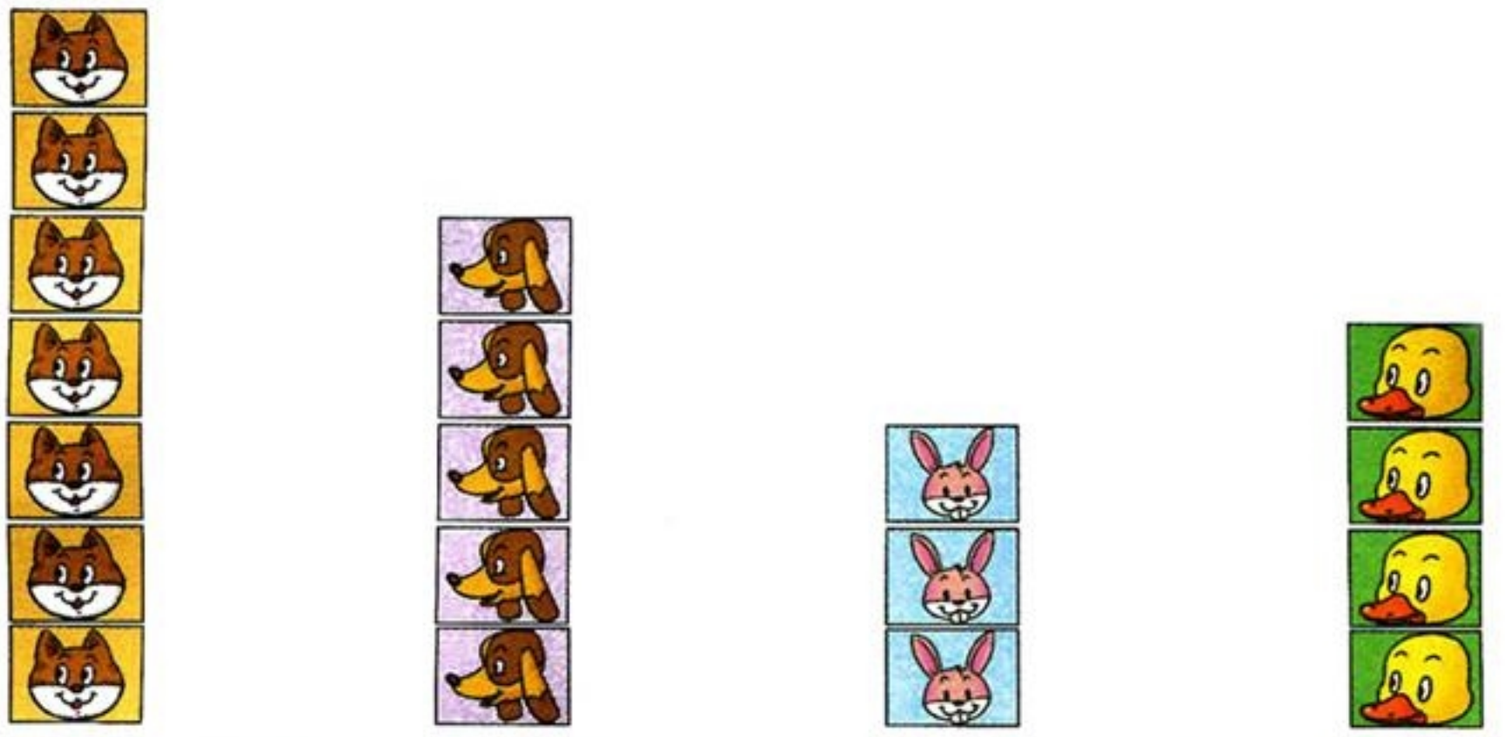

(　　)张　　(　　)张　　(　　)张　　(　　)张

先填空,再用符号代替这些小动物卡片画一画。




△
△
△
△
△
△
△

(　　)张　　(　　)张　　(　　)张　　(　　)张

说说哪种小动物卡片最多,哪种最少。你还能提出什么数学问题?

## 练习十八

1. 分一分,填一填。

(1)4条腿的动物有(　　)只,

2条腿的动物有(　　)只。

2条腿能在水中游的动物有(　　)只。





微信公众号:电子课本大全

(2)



按形状分，可以分成(　　)类。按颜色分，可以分成(　　)类，红色的有(　　)个，蓝色的有(　　)个。既按颜色分，又按形状分，可以分成(　　)类。

2. 调查你们小组同学的出生月份，再回答下面的问题。

(1)1～12月份出生的同学分别有多少人？

(2)哪个月出生的同学最多？哪个月出生的同学最少？

(3)你还能提出哪些数学问题？

3. 红光小学二年级开展先进班集体评比活动，下面是整理出来的4个班得的小红旗。

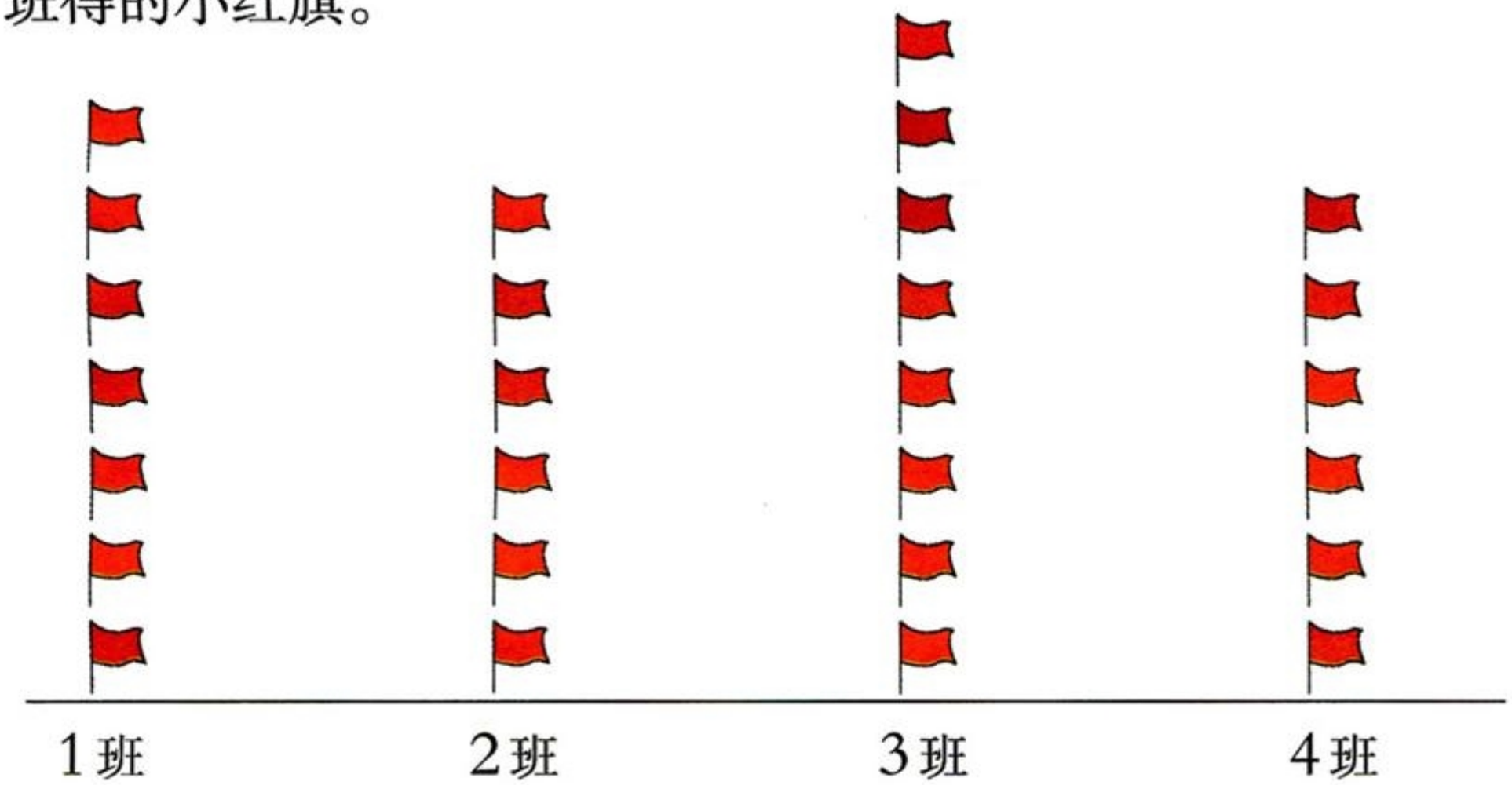


(1)填一填。

1班(　　)面　2班(　　)面　3班(　　)面　4班(　　)面

(2)说一说。

哪两个班的小红旗一样多？4班比3班少几面小红旗？



微信公众号：电子课本大全

4. 下面是小军整理的小灰兔、小白兔、小黑兔采蘑菇的情况，看图回答问题。

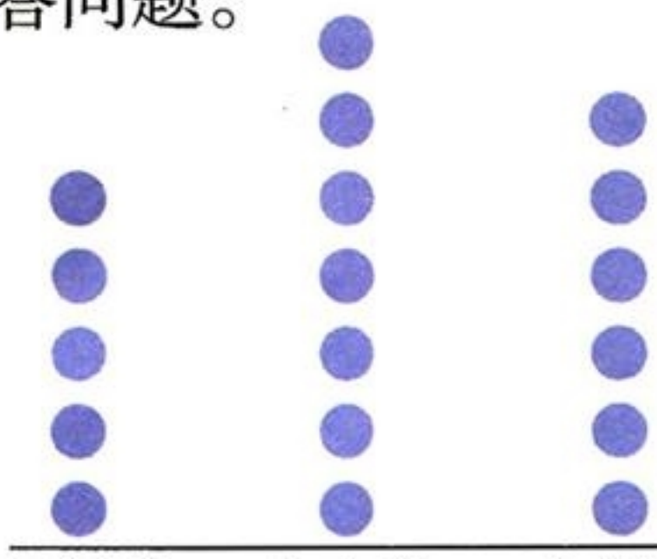


从图中可以看出：

（　　）采得最多，（　　）采得最少。

小白兔采的蘑菇比小灰兔多（　　）朵。

你还能提出哪些数学问题？

5. 小组内调查：每个同学在苹果、梨、草莓、橘子中选1种最喜欢吃的水果，再用1个符号表示1个同学，仿照例2那样排一排。

## 3 分一分，记一记。






下面是4位小朋友的记录：

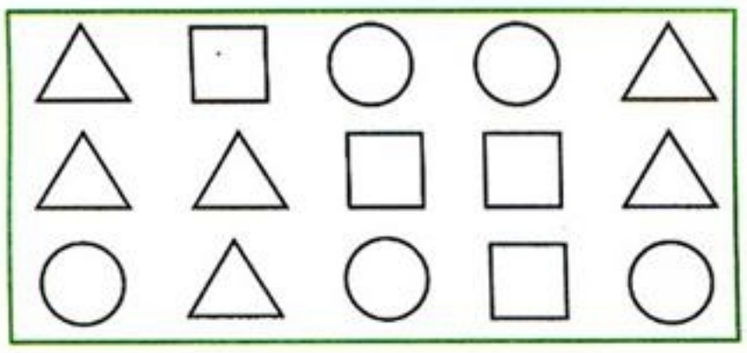




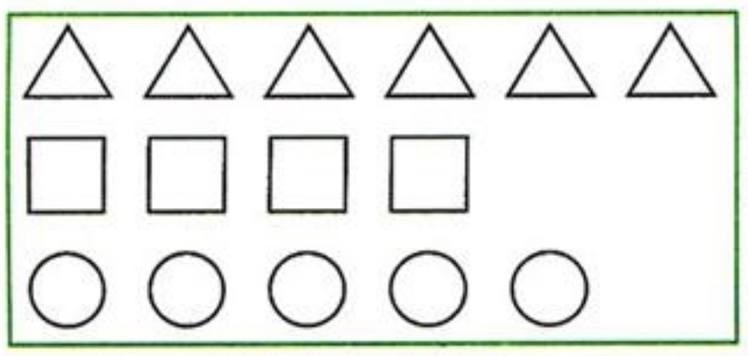

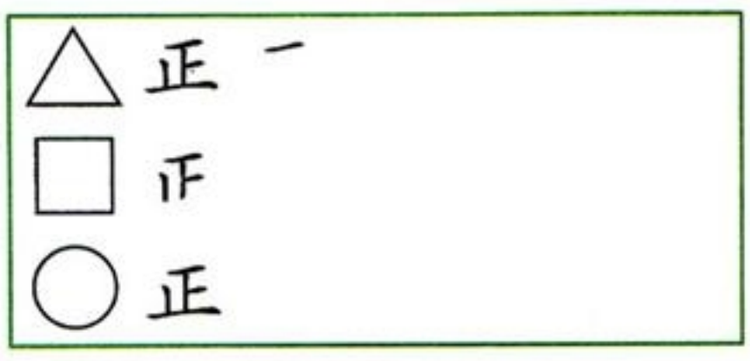





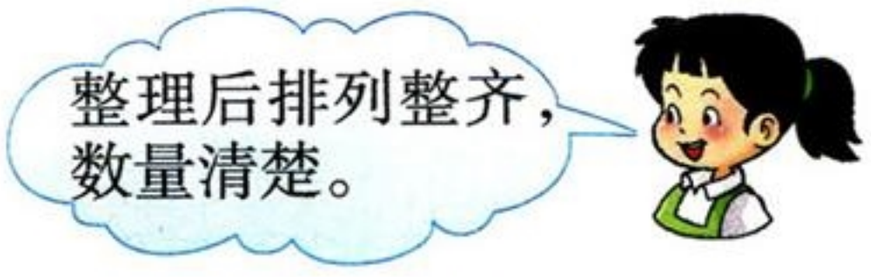


议一议　你喜欢哪种整理方式？



微信公众号：电子课本大全

4 庆祝六一儿童节。




整理全班同学参加节目的人数。




把整理的结果填在下面的表中。

**全班参加节目人数表**

| 节目 | 唱歌 | 跳舞 | 讲故事 | 弹琴 |
|---|---|---|---|---|
| 人数（人） | | | | |

说一说 参加什么节目的人数最多？参加什么节目的人数最少？

## 课堂活动

1. 篮球、排球、足球各有多少个？

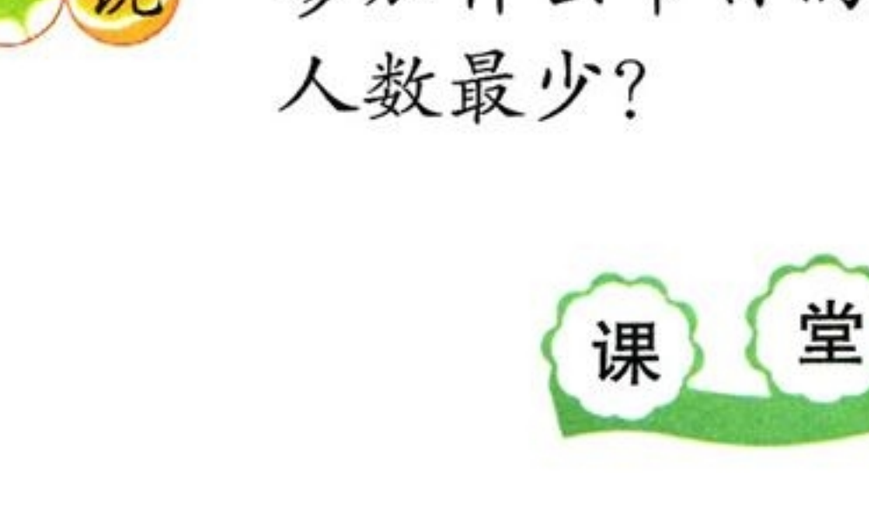


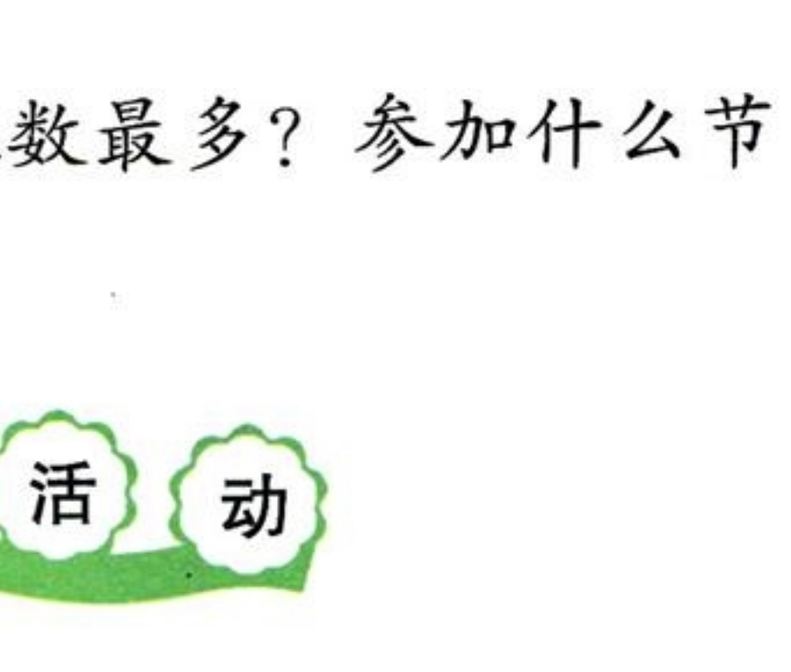




微信公众号：电子课本大全

2. 调查全班同学的家庭人口情况，再整理。

**全班同学的家庭人口情况表**

| 家庭人口数（人） | 4以下 | 4 | 5 | 5以上 |
|---|---|---|---|---|
| 学生人数（人） | | | | |

（1）班上家庭人口是几人的同学最多？

（2）看上面的表，你还想到了哪些数学问题？

## 练习十九

1.（1）在下面的4部动画片中，选1部你最喜欢的。

喜羊羊与灰太狼　　猫和老鼠　　西游记　　七龙珠

（2）用你喜欢的方法，整理班上同学最喜欢的动画片的人数各是多少。

喜羊羊与灰太狼：

猫和老鼠：

西游记：

七龙珠：

2. 整理全班1周阅读课外读物的册数。




把上面的整理结果填入下表。

**全班1周阅读课外读物情况表**

| 类别 | 少儿文艺 | 连环画 | 故事大王 |
|---|---|---|---|
| 册数（册） | | | |



微信公众号：电子课本大全

(1)读连环画的册数比故事大王多几册?

(2)同学们最喜欢看的课外读物是什么?

(3)全班共读了多少册课外读物?

3. 下面是某地7月份上半月每天的最高气温记录,请用画“正”字的方法整理有关数据。

| 日期 | 1 | 2 | 3 | 4 | 5 | 6 | 7 | 8 |
|---|---|---|---|---|---|---|---|---|
| 温度 | 29 ℃ | 29 ℃ | 29 ℃ | 31 ℃ | 31 ℃ | 33 ℃ | 33 ℃ | 31 ℃ |
| 日期 | 9 | 10 | 11 | 12 | 13 | 14 | 15 | |
| 温度 | 33 ℃ | 36 ℃ | 36 ℃ | 31 ℃ | 29 ℃ | 29 ℃ | 29 ℃ | |

| 温度 | 29 ℃ | 31 ℃ | 33 ℃ | 36 ℃ |
|---|---|---|---|---|
| 天数(天) | | | | |

4. (1)按班上的课程安排填写课程表。

| | 课程 | | | | |
|---|---|---|---|---|---|
| | 一 | 二 | 三 | 四 | 五 |
| 上午 | | | | | |
| | | | | | |
| | | | | | |
| | | | | | |
| | 午休 | | | | |
| 下午 | | | | | |
| | | | | | |

(2)用画“正”字的方法整理每门课各有多少节。

(3)一周中,哪门课最多?哪门课最少?



微信公众号:电子课本大全

综合与实践

# 每天锻炼1时






微信公众号：电子课本大全

## 说说自己参加的体育活动。



## 记记自己的锻炼时间。




## 整理全组同学的锻炼时间。

(1)(　　)组同学1天体育锻炼时间统计

| 姓名 | 时间（分） |
| --- | --- |
| | |
| | |
| | |
| | |
| | |
| | |

(2)用“○”表示同学，画一画。




## 交流1天的锻炼时间。




微信公众号：电子课本大全

# 八 总复习




## 万以内数的认识及三位数加减法

1. (1)3070是由(　　)个千和(　　)个十组成。

(2)1个千、5个百和7个一组成的数是(　　)。

(3)2400＝□＋□。

2. 用竖式计算，并说一说计算的方法。

375+287　　526−339

## 认识图形

3. 长方形的对边(　　)，4个角都是(　　)。

4. 正方形的4条边都(　　)，4个角都是(　　)。

5. 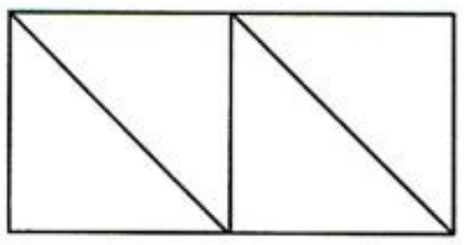

长方形有(　　)个。

正方形有(　　)个。

平行四边形有(　　)个。



微信公众号：电子课本大全

## 常见的量

6. 写出钟面上显示的时刻。









_____:_____　　_____:_____　　_____:_____　　_____:_____

7. 填合适的长度单位。



窗户宽约120(　　)



三峡大坝高约185(　　)



飞机每分飞行约13(　　)



每时步行约3(　　)

8. 填一填。

3分＝(　　)秒　　240分＝(　　)时　　2分8秒＝(　　)秒

5km＝(　　)m　　1m＝(　　)dm＝(　　)cm＝(　　)mm

## 有余数的除法

9. (1)把13个苹果平均分给4个小朋友，每个小朋友分得(　　)个，还剩(　　)个。

(2)有20个苹果，每6个装1袋，可以装(　　)袋，还剩(　　)个。

10. 在有余数的除法中，余数必须(　　)除数。



微信公众号：电子课本大全

## 收集与整理

11. 分一分，填一填。


30元


30元


20元


40元


30元


20元


40元


30元


20元

(1)有盖的有(　　)个，价格为20元的有(　　)个。

(2)有盖40元的有(　　)个，无盖20元的有(　　)个。

(3)还可以提出哪些数学问题？

12.



(1)整理数据。

小鸡：　　小兔：　　小鹅：

(2)用符号代替这些小动物画一画，把图补充完整。

| △ | ○ | √ |
| --- | --- | --- |
|  |  |  |

(3)看上图回答问题。

小鸡有(　　)只，小兔有(　　)只，小鹅有(　　)只。

3种小动物中，(　　)最多，(　　)最少。



微信公众号：电子课本大全

# 练习二十

1. 读出下面各数。

374　　5128　　3009　　8010　　10000

2. 写出下面各数。

五百四十　　二千四百　　三千零九　　二千零八十

3. 按规律写数。

(1)496,497,498,_____,_____,_____。

(2)1070,1080,_____,1100,_____,_____。

(3)1750,1850,_____,_____,_____,2250。

4. 4位同学的运动成绩如下表。

| 姓　名 | 王林 | 田明 | 伍兵 | 李凡 |
|---|---|---|---|---|
| 跳高成绩（cm） | 87 | 84 | 90 | 85 |
| 100 m跑成绩（秒） | 21 | 19 | 20 | 23 |

将姓名按成绩的名次填入(　　)里。

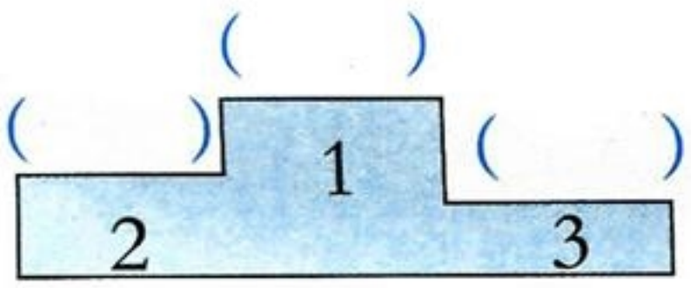


跳高

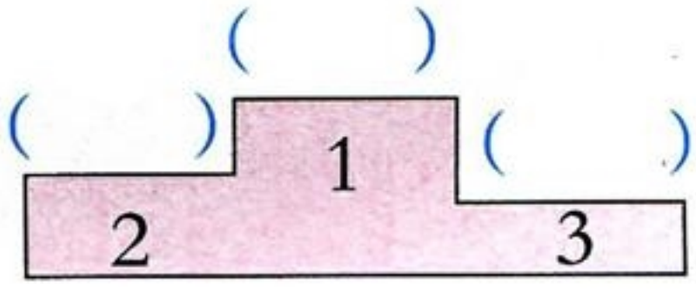


100 m跑

5. 在◯里填“>”“<”或“=”。

1084◯987　　2435◯3019　　2000 m◯2 km

2148◯2209　　3058◯3049　　2分◯120秒

6. 在下面的横线上填合适的数,并说明理由。

(1)65,60,55,50,_____。　(2)3,7,11,_____,19。

(3)3,4,7,11,18,_____。　(4)112,223,334,_____,556。



微信公众号：电子课本大全

7. 按规律编号。

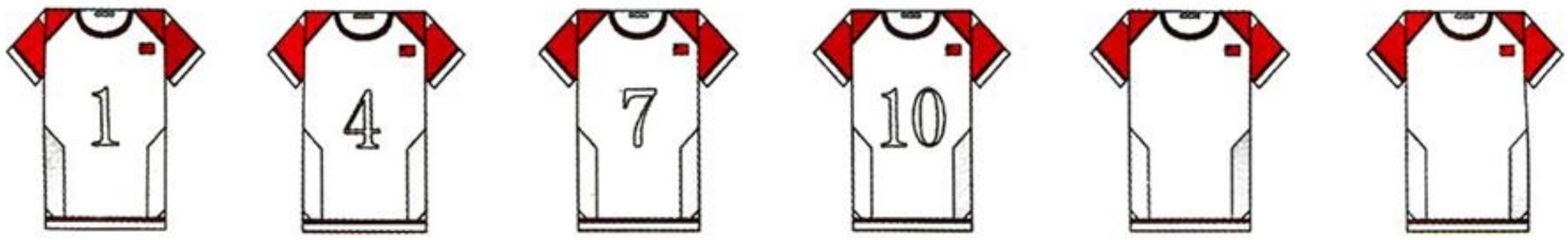


8. 口算。

| | | |
|---|---|---|
| 300+100= | 350−150 = | 25+64= |
| 570−100= | 30+150= | 29−23= |
| 90+500= | 85−15= | 250+40= |

9. 计算。

| | | |
|---|---|---|
| 518<br>+387 | 537<br>−238 | 900<br>−694 |

10. 用竖式计算。

| | | |
|---|---|---|
| 490+105 | 189+411 | 703−524 |
| 249+361 | 578+296 | 480−392 |

11. 计算。

| | |
|---|---|
| 247+153+219 | 783−150−247 |
| 327+175−308 | 813−345+190 |

12. 在□里填合适的数字。

(1)

$$\begin{array}{r} 3\ \square\ 4 \\ +\ 1\ \ 3\ \square \\ \hline \square\ 0\ \ 1 \end{array}$$

(2)

$$\begin{array}{r} 7\ \ 3\ \square \\ -\ \square\ 6\ \ 9 \\ \hline 2\ \square\ 7 \end{array}$$



微信公众号：电子课本大全

13.




(1)一共需要多少朵花?

(2)还差多少朵花?

14. 商店原来有大米427袋,又运来350袋。现在卖出688袋,还剩多少袋?

15. 在(　　)里填适当的数。

4 km=(　　)m　　200 cm=(　　)m　　120分=(　　)时

2分=(　　)秒　　3时=(　　)分　　3000 m=(　　)km

16. 下面是3位同学的身高记录表。

| | 马　亮 | 章　明 | 王　飞 |
|---|---|---|---|
| 开学初 | 127cm | 130cm | 128cm |
| 期　末 | 131cm | 135cm | 136cm |

提出并解答数学问题。

17. 斑马高148 cm。




(1)梅花鹿、长颈鹿的高各是多少厘米?

(2)你还能提出并解决什么数学问题?

18. 这个月爷爷的养殖收入是308元,爸爸给爷爷的钱比他的养殖收入多292元。爷爷这两笔收入一共有多少元?



微信公众号：电子课本大全

19. 余刚家养牛230头，苗苗家养的牛比余刚家少78头。他们两家一共养牛多少头？

20. 运送40张桌子，每辆车运9张，最多装满几辆车，还剩几张桌子？

21. 把60颗糖平均分给8个小朋友，每人分得几颗糖，还剩几颗？

22. 希望小学组织学生参观“小平故居”，上午8:30出发，上午10:50到达，路上用去多长时间？



23. 把54只鸽子放养在笼子里。每个大笼子放养9只，每个小笼子放养6只，可以怎样放养？

24. 二(1)班同学参加课外兴趣活动情况如下：

| 学号 | 组别 | 学号 | 组别 | 学号 | 组别 | 学号 | 组别 |
|---|---|---|---|---|---|---|---|
| 1 | 体育 | 6 | 科技 | 11 | 体育 | 16 | 科技 |
| 2 | 体育 | 7 | 艺术 | 12 | 艺术 | 17 | 艺术 |
| 3 | 科技 | 8 | 艺术 | 13 | 科技 | 18 | 体育 |
| 4 | 艺术 | 9 | 科技 | 14 | 科技 | 19 | 体育 |
| 5 | 艺术 | 10 | 艺术 | 15 | 艺术 | 20 | 科技 |

(1)整理数据。

体育组：　　科技组：　　艺术组：

(2)用符号代替参加活动的同学，画一画。

体育组　　科技组　　艺术组

25. 小熊上山的路程是36 km，第1时行14 km，从第2时开始，每时比前一时少行2 km。小熊上山要用多长时间？





微信公众号：电子课本大全

微信公众号：电子课本大全