教育部审定
2012

义务教育教科书

数学

一年级 下册









河北教育出版社

微信公众号：电子课本大全

编者的话 目录

目　录

一　位置…… 1

二　认识钟表…… 7


生活中的钟表…… 13

三　100 以内数的认识…… 14


数字开花…… 29

四　认识人民币…… 30


商品价格调查…… 34

五　100 以内的加法和减法(一)…… 36

六　认识图形(二)…… 66

七　100 以内的加法和减法(二)…… 74

八　探索乐园…… 92

●　整理与评价…… 97

微信公众号：电子课本大全

一 位 置

左 右

观察教室，用“左”或“右”说一句话。



把数学课本放在自己前面。

把练习本放在课本右边，把铅笔盒放在课本左边。





指出自己身上的“左”和“右”。

这是我的右脚。

这是我的左耳。



微信公众号：电子课本大全

练一练

1．照样子说一说。



2．



(1)从左数第几位是  ？从右数第几位是  ？

(2)  的左边有几人？



身边的数学



微信公众号：电子课本大全

前 后

看图讲故事。







看图说话。



微信公众号:电子课本大全

练一练

1.



(1) 排在最前面的是谁，最后面的是谁？

(2) 红红的前面有几个小朋友，后面有几个小朋友？

2. 说一说各组运动员的位置。



身边的数学



微信公众号：电子课本大全

上　下

看图讲故事。





看图说话。







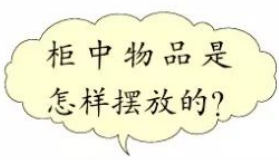





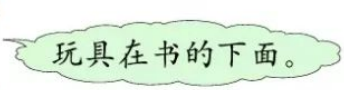





微信公众号：电子课本大全

练一练

1．说出地球仪的位置。



2．说出各种水果的位置。



3．给小动物分房间。



微信公众号：电子课本大全

二 认识钟表





你还记得春节联欢晚会开始的时间吗？







春节联欢晚会晚上 8 点开始。

8 点也叫做 8 时。



时针指向 8，分针指向 12，是 8 时。

微信公众号：电子课本大全

谁在和谁通电话？







练一练

1．看图说话。




2．连线。



3．画时针。

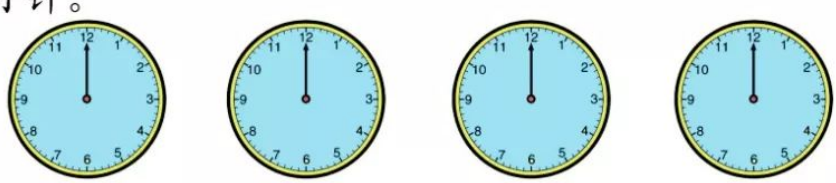

8:00　　2:00　　3 时　　10 时

微信公众号：电子课本大全





快3点了可以说大约3时。





看图说话。









7时刚过，玲玲上学去。

7时刚过，也可以说大约7时。



微信公众号：电子课本大全

练一练

1. 说一说大约是几时。

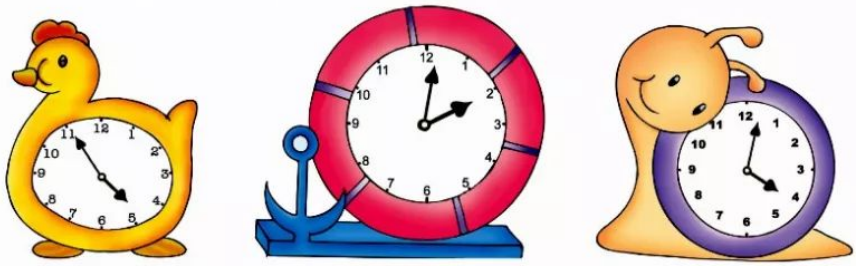

2.



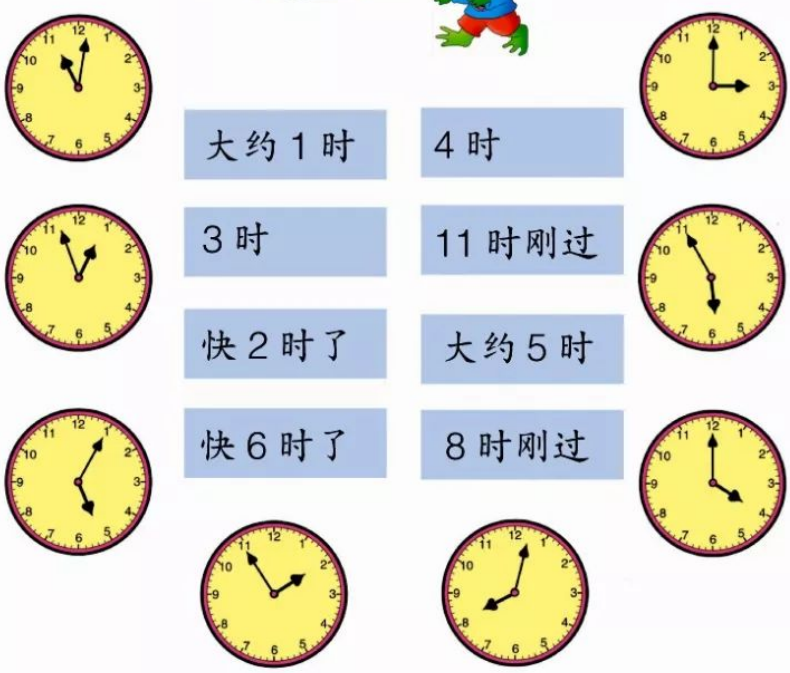

3. 看图说话。



微信公众号：电子课本大全



你知道每天晚上《新闻联播》结束的时间吗？



7点半《新闻联播》结束。

7点半也叫做7时30分。



聪聪的星期天。

说一说聪聪什么时间在做什么。





· 1 ·



· 2 ·



· 3 ·



· 4 ·

微信公众号：电子课本大全



· 5 ·



· 6 ·



说一说 放风筝的时间和睡觉的时间有什么不同？



1. 连一连。









9 时 30 分　　5 时 30 分　　11 时 30 分　　2 时 30 分

2. 画时针。



8:30　　3:30　　10:30

3. 在家人的帮助下，制订每天睡觉、起床的时间。

微信公众号：电子课本大全

生活中的钟表

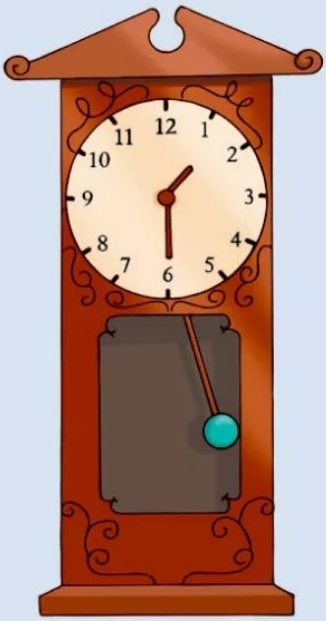

你见过下面的钟表吗？





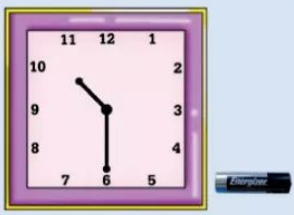







说出下面钟表面上的时刻。









鱼形表的时刻是 10 时。

说说你是怎么知道的。



微信公众号：电子课本大全

三 100 以内数的认识







一共有多少个扣子？

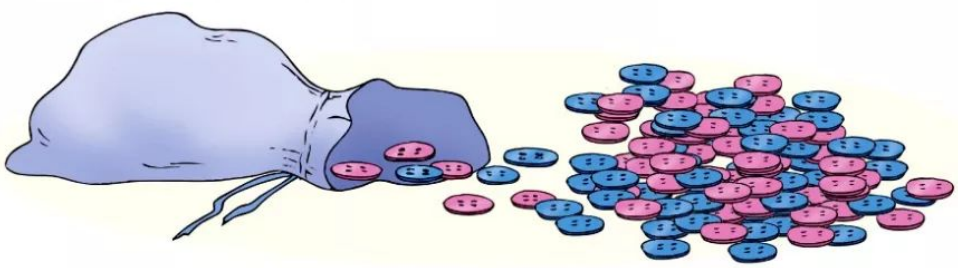



微信公众号：电子课本大全

练一练

1．数数接龙。

(1) 从六十八数到一百。



(2)从五十七数到八十。

2．数一数。

(1) 全班有(　　)名同学。男同学有(　　)名，女同学有(　　)名。

(2) 数学课本一共有(　　)张纸。





3．数一数。



一共有(　　)颗 ★。

4．在下面各数的后面接着数出 5 个数来。

二十九　　四十八　　七十七

微信公众号：电子课本大全

抓一把花生，先估计有多少颗，再实际数一数。





把你估计的和实际数的结果与同学交流一下。

再来一次！



先估计一下，再数。



用自己的方法数一数，看谁数得又对又快！



二、四、六、八……

五、十、十五……

十、二十、三十……



你还有其他方法吗？



微信公众号：电子课本大全

练一练

看谁数得快！



1. 数一数。

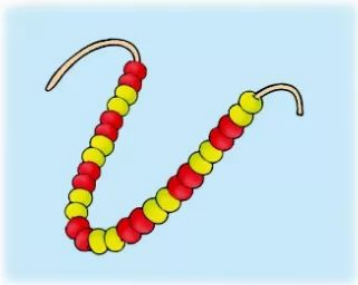

（　　）粒

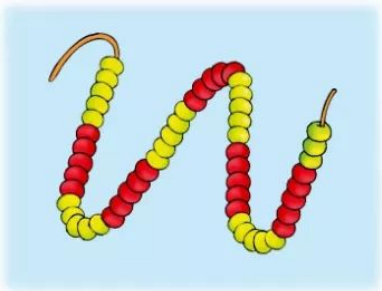

（　　）粒

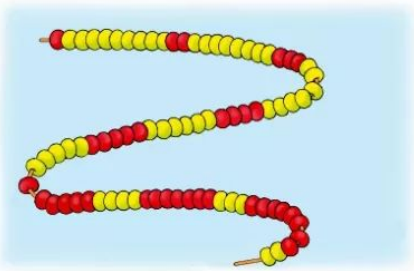

（　　）粒

说一说你是怎样数的。



2. 先估计一下，再用自己的方法数一数。

一共有（　　）只。

3. 估计杯子中花生的粒数。



20 粒



（　　）粒



（　　）粒

微信公众号：电子课本大全

数一数。



说一说你是怎样数的。



微信公众号：电子课本大全

数出 30 根小棒，摆在桌子上。









议一议 一捆是 10 根，10 捆是多少根？

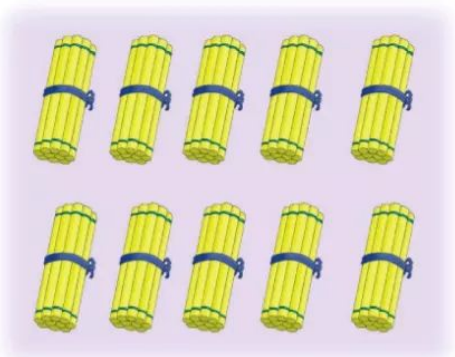



10 个十是一百。

摆一摆，再填空。

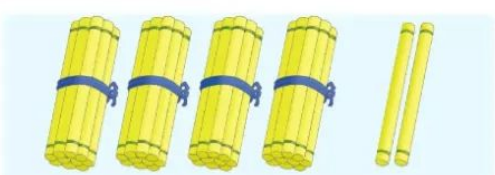

（　　）个十和（　　）个一，合起来是（　　）。

微信公众号：电子课本大全

练一练

1. 数一数，再填空。



5 个十和 1 个一是(　　)。



(　　)个十和(　　)个一是(　　)。

2.



一共有(　　)支笔。



一共有(　　)个乒乓球。

3. (1)58 里面有(　　)个十和(　　)个一。

(2)75 是由(　　)个十和(　　)个一组成的。

(3)9 个十是(　　)，80 里面有(　　)个十。

(4)2 个十和 7 个一是(　　)，7 个十和 2 个一是(　　)。

数学游戏



微信公众号：电子课本大全



认识数位。

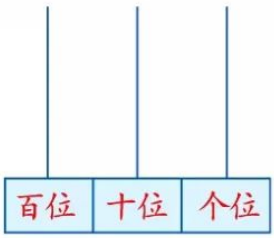

从右边起：第一位是个位，
第二位是十位，
第三位是百位。

写出计数器表示的数，并读出来。

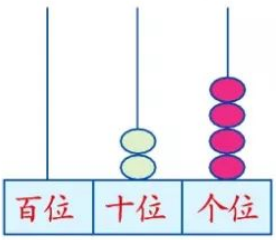

2　4

读作：二十四

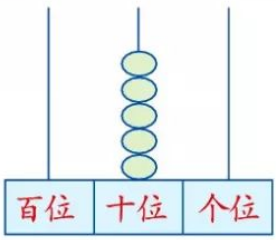

5　0

读作：五十



十位上有 2 个珠，在十位上写 2；
个位上有 4 个珠，在个位上写 4。

明白啦！十位上的数表示几个十，个位上的数表示几个一。



试一试

写出计数器表示的数，并读出来。

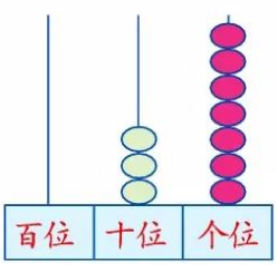

（　　）

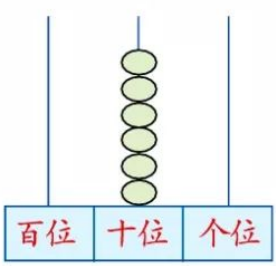

（　　）

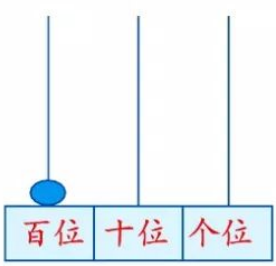

（　　）

微信公众号：电子课本大全

练一练

1. 填空。

	6	6
百位	十位	个位

(1) 十位上的 6 表示 6 个(　　)。

(2) 个位上的 6 表示 6 个(　　)。

2. 读出下面各数。

28　　34　　46　　58　　73　　95　　100

3. 写出下面各数。

九十六　　七十九　　六十四　　五十七　　九十九

4. (1) 十位上是 4，个位上是 7，这个数是(　　)，读作(　　)。

(2) 个位上是 2，十位上是 6，这个数是(　　)，读作(　　)。

5. 在计数器上画出珠子表示下面的数。

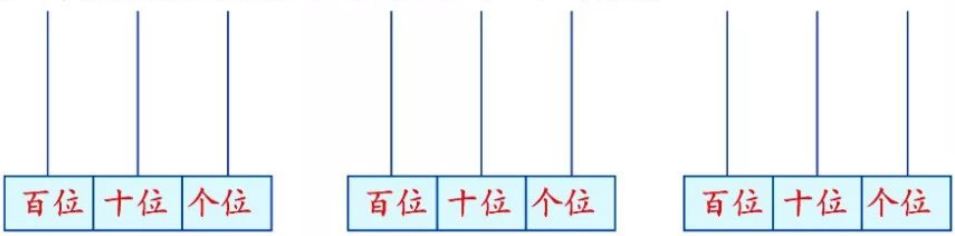

数学游戏



微信公众号：电子课本大全

按数的顺序，在空格里填数。

1		3		5					10
11			14			17		19	
	22						28		
		33							
			44		46				
				55					
			64		66				
						77			
	82						88		
91								99	



观察表格中的数，你发现了什么？



竖着看，上一个数都比下一个数少 10。

横着看，后一个数都比前一个数多 1。





说一说

1．49 后面的一个数是多少？

2．89 前面的一个数是多少？

3．和 71 相邻的是哪两个数？

4．六十几的两位数包括哪几个数？

微信公众号：电子课本大全

做一做

1. 把表格中个位、十位上数字相同的数占的方格涂上红色。
2. 把表格中个位、十位上数字相加等于 10 的数占的方格涂上绿色。
3. 按表格中数的规律，在下面空格中填上合适的数。

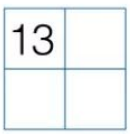

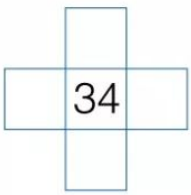

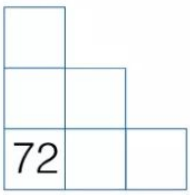

练一练

1. 按要求填数。

45　30　58　60　70　73
80　85　89　95　100

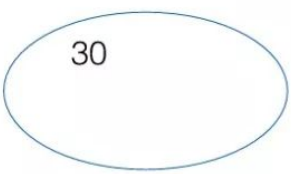

个位上是 0 的数

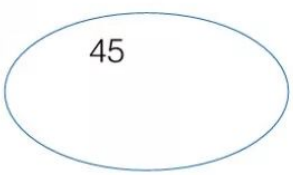

个位上是 5 的数

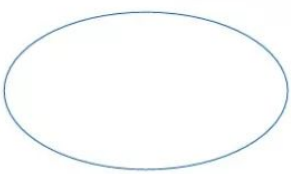

50 到 90 之间的数

2. (1) 写出个位上是 8 的两位数。
   (2) 写出十位上是 4 的两位数。
3. 找出每行数的规律，并按规律接着写出三个数。
   2, 4, 6, 8, 10, (　　), (　　), (　　)
   6, 9, 12, 15, 18, (　　), (　　), (　　)
   5, 10, 15, 20, 25, (　　), (　　), (　　)

数学冲浪

在 2、5、7 三个数字中，任选两个组成两位数，可以组成 (　　) 个不同的两位数。其中，最大的是 (　　)，最小的是 (　　)。

微信公众号：电子课本大全

(1) 谁摘的桃多？





(2) 用 > 或 < 表示。

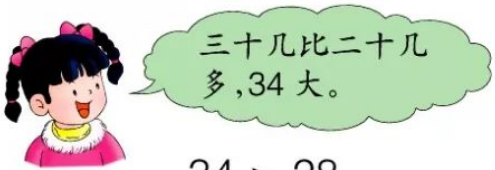

34 > 28

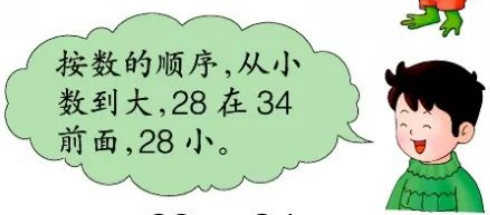

28 < 34

试一试

在○里填上 > 或 <。

68 ○ 65　　48 ○ 58　　77 ○ 76

70 ○ 80　　87 ○ 78　　98 ○ 89

练一练

1. 在○里填上 > 或 <。

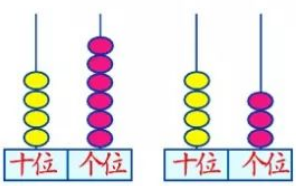

46 ○ 43

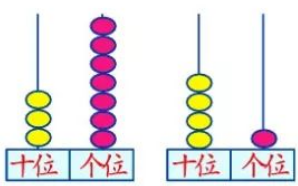

37 ○ 41

2. 按要求把下面各数填在○里。

23　18　40　38　34　60

○ < ○ < ○ < ○ < ○ < ○

微信公众号：电子课本大全

海滨的早晨。



练一练

1. 比多少。



2. 动物园的羚羊可能有多少只？





在你认为合适的答案下面画○。





25	48	53

微信公众号：电子课本大全

1. 数一数。

(1)

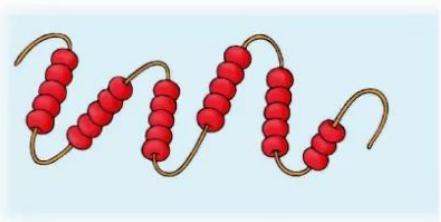

一共有(　　)粒珠子。

(2)



一共有(　　)根小棒。

(3)



一共有(　　)颗山楂。

2. 看图写数。

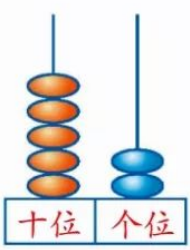

写作:_____

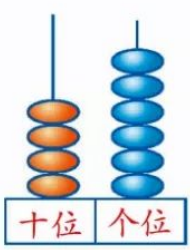

写作:_____

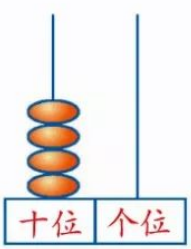

写作:_____

3.(1) 12 到 25 之间的数有(　　)。

(2) 大于 39 小于 46 的数有(　　)。

4.(1) 52 里面有(　　)个十和(　　)个一。

(2) 46 的个位上是(　　),十位上是(　　)。

微信公众号：电子课本大全

5. 小鸡回家。



6. 坝上牧场。









(1) 羊可能有多少只？

12	18	35

(2) 牛可能有多少头？

12	18	35

7. 在○里填上＞、＜或＝。

47 ○ 74　　82 ○ 68　　39 ○ 46

52 ○ 25　　39 ○ 39　　80 ○ 78

8. 按规律接着写出三个数。

(1) 60，62，64，66，＿＿＿＿，＿＿＿＿，＿＿＿＿

(2) 45，50，55，60，＿＿＿＿，＿＿＿＿，＿＿＿＿

(3) 82，72，62，52，＿＿＿＿，＿＿＿＿，＿＿＿＿

微信公众号：电子课本大全

数字开花

游戏规则。

(1) 两人一组，轮流向下面的顺序表内投小纽扣。

(2) 投中哪个数，就说出与这个数有关的数学问题。

(3) 说对一题记 1 分，每够 10 分奖一朵花。



17 比 3 多得多。

17 里面有 1 个十和 7 个一。
17 比 16 多 1。



1	2	3	4	5	6	7	8	9	10
11	12	13	14	15	16	17	18	19	20
21	22	23	24	25	26	27	28	29	30
31	32	33	34	35	36	37	38	39	40
41	42	43	44	45	46	47	48	49	50
51	52	53	54	55	56	57	58	59	60
61	62	63	64	65	66	67	68	69	70
71	72	73	74	75	76	77	78	79	80
81	82	83	84	85	86	87	88	89	90
91	92	93	94	95	96	97	98	99	100

把你得到的小花涂上漂亮的颜色。



微信公众号：电子课本大全

四 认识人民币





购买商品需要人民币。你认识下面的人民币吗？



你还知道哪些有关人民币的知识？



微信公众号：电子课本大全

从下面任选一件你喜欢的学习用品，说一说怎样付钱。

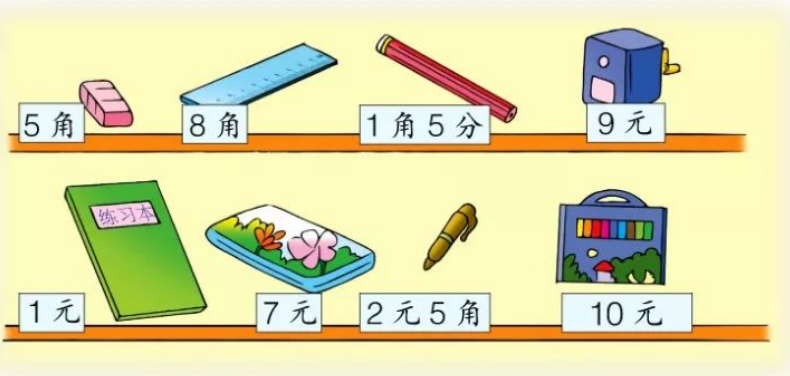



买一个练习本付1张1元的钱。

也可以付10张1角的钱。



1元等于10角，1角等于10分。



练一练

1. 从下面的人民币中凑出1元钱。



说说你的做法。



2. 换钱。





微信公众号：电子课本大全

小小快餐店。



提问题,并解答。



微信公众号:电子课本大全

练一练

1. 算一算，填空。



2元3角　3元



2元　3元5角



8元　4元6角

（　　）元（　　）角　（　　）元（　　）角　（　　）元（　　）角

2. 玩具超市。

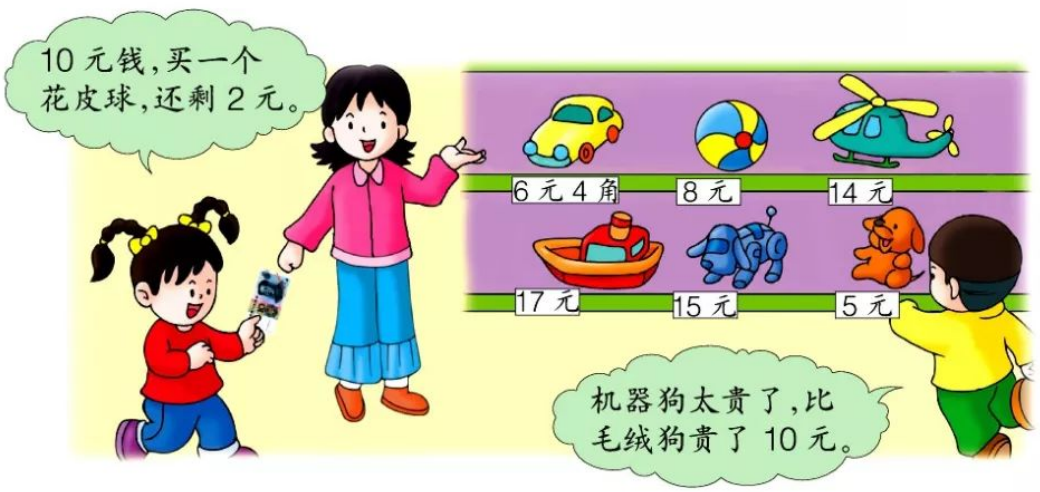

要买的玩具	付出的钱	找回的钱
花皮球	10元	2元
毛绒狗	20元	___元
飞机	___元	___元

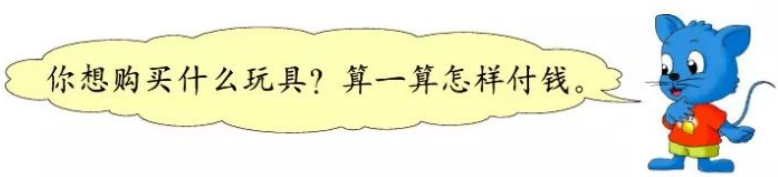

微信公众号：电子课本大全

商品价格调查

分组调查。

以小组为单位，到附近的商店或超市调查几种食品和学习用品的价格，并填在下表中。

食　品	
名称	价格

学习用品	
名称	价格

认识商品标价。



你认识下面的商品标价吗？



3.50 元



12.50 元



49.80 元



11.00 元

每条毛巾是3元5角。



交流调查情况。

(1) 交流小组调查的地点、方式和结果。

(2) 向同学介绍你的购物情况或经历。

微信公众号：电子课本大全



购物游戏。

(1) 每人准备几件小物品，自己标上价钱，小组合作组成一个“小商店”。

(2) 轮流当售货员，其他同学当顾客。



微信公众号：电子课本大全

五 100 以内的加法和减法（一）

整十数加一位数和相应的减法

算一算。





30 + 5 = 35

30：加数　5：加数　35：和



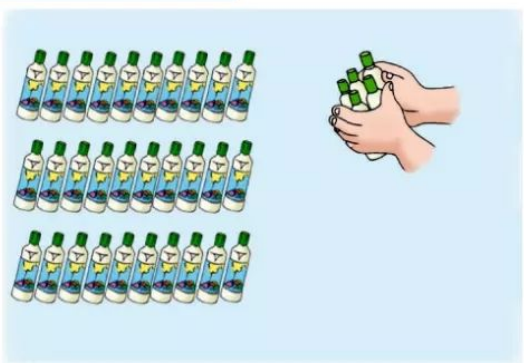



35 − 5 = 30

35：被减数　5：减数　30：差

微信公众号：电子课本大全

练一练

1. 80 + 9 =　　3 + 70 =　　60 + 5 =
   43 − 3 =　　58 − 8 =　　94 − 4 =

2.

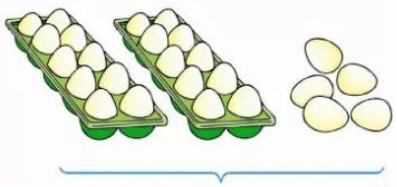

?个

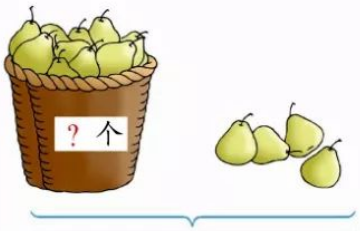

34 个

□ ○ □ = □（个）　　□ ○ □ = □（个）

3.

加数	加数	和
60	5	
8	40	

被减数	减数	差
57	7	
76	6	

4. 买一件上衣和一双袜子要花多少元钱？



60 元



8 元

□ ○ □ = □（元）

5. 对口练习。



自主小天地

我编的题

微信公众号：电子课本大全

两位数加、减整十数

(1) 算一算：幼儿园一共买来多少个苹果？

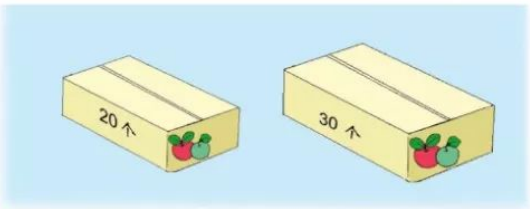

30 + 20 = ☐ (个)



用小棒摆一摆。



3个十加2个十，得5个十，是50。

(2) 分给小班20个，还剩多少个苹果？

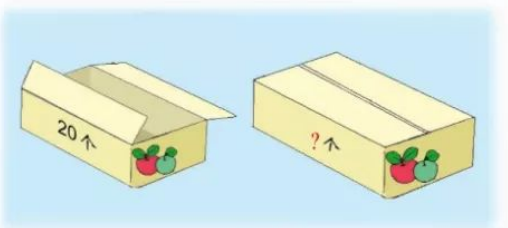

50 − 20 = ☐ (个)



5个十减2个十，得3个十，是30。

试一试

30 + 50 =　　80 − 30 =

50 + 30 =　　80 − 50 =



说一说你是怎样算的。

微信公众号：电子课本大全

练一练

1. 40 + 50 =　　90 − 30 =　　20 + 30 =
   80 − 70 =　　20 + 60 =　　70 − 50 =
   65 − 5 =　　4 + 70 =　　50 + 8 =

2. 找朋友。



3. 在○里填上 >、< 或 =。

30 + 20 ○ 20 + 30　　70 − 50 ○ 60 − 50
40 + 10 ○ 65 − 5　　6 + 10 ○ 45 − 5

4. 王晓丽拿 100 元钱去买下面的半袖衫，应找回多少元钱？

□ ○ □ = □（元）



40 元

数学冲浪

用 10 元、20 元、50 元面值的人民币凑成 100 元，有几种凑法？写出来。



微信公众号：电子课本大全

树上原来有多少个桃？



想一想：这个问题怎样解答呢？



摘下的加上树上剩的就是树上原来有的个数。

20 + 16 = □（个）



用自己的方法算一算。

2 个十加 1 个十和 6 个一，等于 3 个十 6 个一……

把 16 分成 10 和 6，先算 20 加 10 等于 30……



20 + 16 = 36

10　6

30



练一练

1．幼儿园原来有多少个皮球？



□ ○ □ = □（个）

微信公众号：电子课本大全

2．一共有多少本书？



□ ○ □ = □（本）

3．小动物回家。

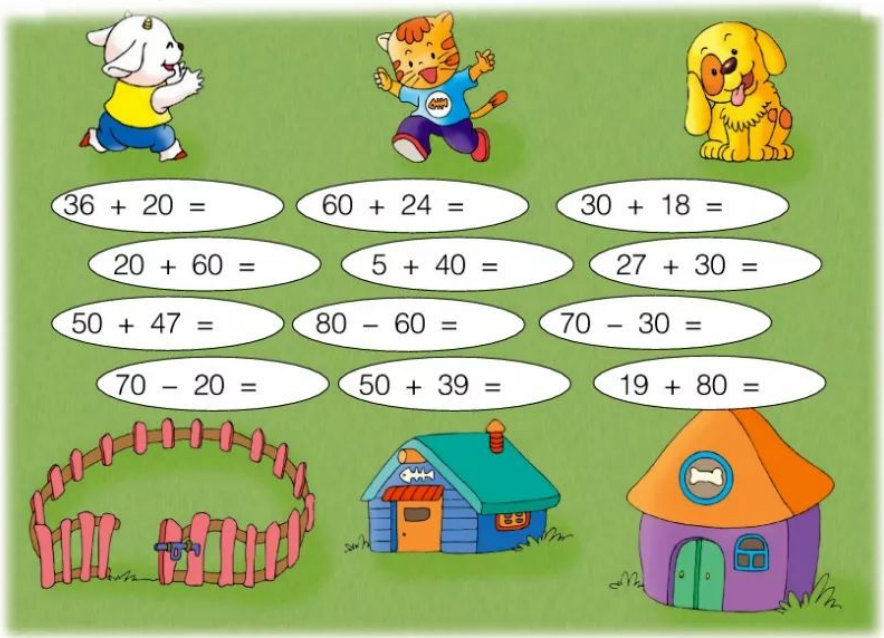

4．36 + 10 =　　20 + 42 =　　53 + 30 =

40 + 27 =　　55 + 30 =　　62 + 20 =

58 + 30 =　　72 + 20 =　　40 + 18 =

问题讨论



微信公众号：电子课本大全

送给幼儿园多少朵纸花？



想一想：这个问题怎样解答呢？



用做的总数减去剩下的，就是送给幼儿园的朵数。

46 － 20 = □（朵）



用自己的方法算一算。

4 个十去掉 2 个十，还剩 2 个十……



先算 40 减 20 等于……



46 － 20 = 26

40　6

20

微信公众号：电子课本大全

练一练

1. 还缺多少把椅子？



□ ○ □ = □（把）

2.



－ 20

46	57	32	61	70	68	27	50
26							

3.

39 + 20 =　　50 + 30 =　　40 + 18 =

88 － 60 =　　76 － 60 =　　72 － 20 =

62 － 30 =　　35 + 50 =　　55 － 50 =

4. 摘桃子。

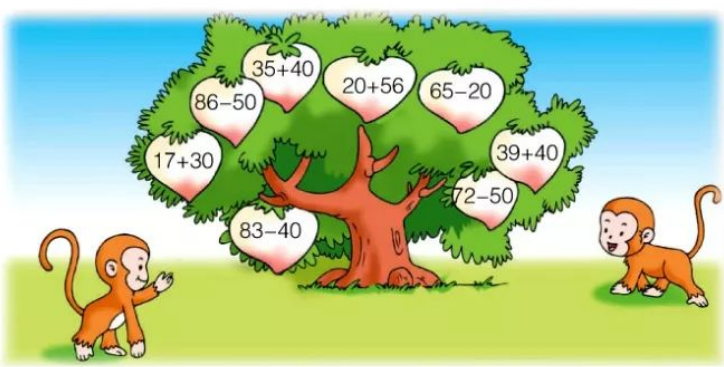



微信公众号：电子课本大全

两位数加一位数

一共采了多少个蘑菇？



用自己的方法算一算。



23 + 4 = ☐（个）

3 根加 4 根等于 7 根……



先算 3 加 4 等于 7……



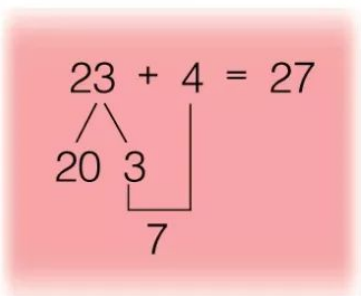

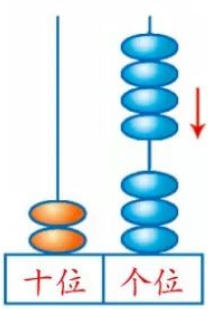

可以用计数器计算。



微信公众号：电子课本大全

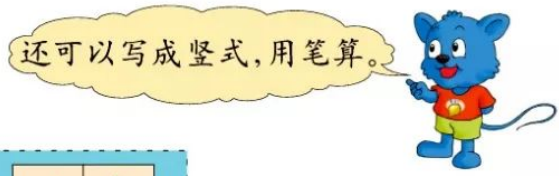

十	个
2	3
+	4

→

十	个
2	3
+	4
2	7

$$\begin{array}{r} 23 \\ +\ \ 4 \\ \hline 27 \end{array}$$

笔算加法，要相同数位对齐，从个位加起。

试一试

43 + 5 =　　52 + 7 =　　5 + 34 =

练一练

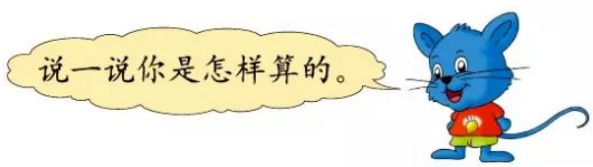

1.

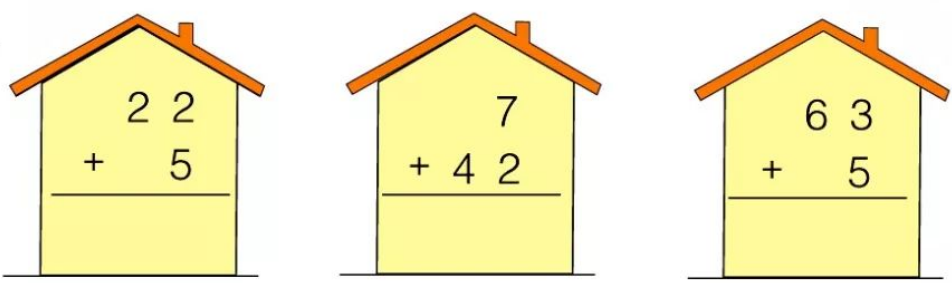

2. 42 + 6 =　　52 + 6 =　　4 + 63 =

76 + 2 =　　4 + 83 =　　82 + 3 =

3. 买一本《新华字典》和一个书包，一共需要多少元？

□ ○ □ = □（元）



微信公众号：电子课本大全

参加演出的一共有多少人？



27 + 8 = ☐（人）

用小棒摆一摆，算一算。







先算 7 加 8 等于 15……

把 8 分成 3 和 5，先算……



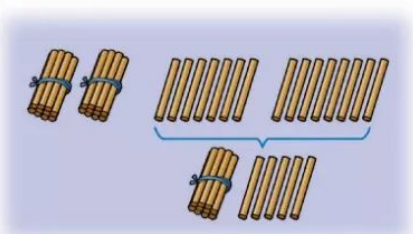

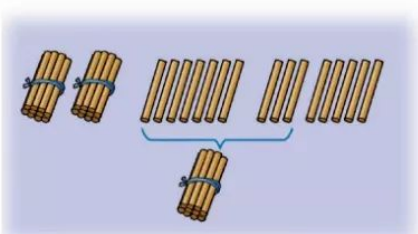



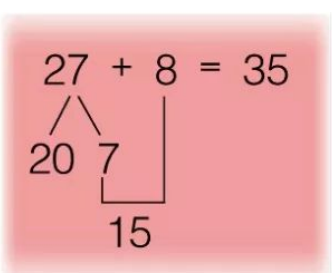

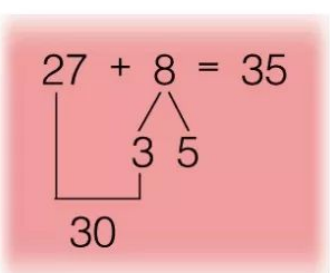

微信公众号：电子课本大全

十	个
2	7
+	8

→

十	个
2	7
+	8
1	
3	5

	2	7
+		8
	1	
	3	5



个位相加满十，向十位进 1。

试一试

9 + 63 =

45 + 6 =

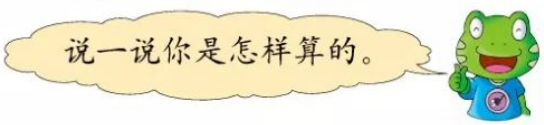

练一练

1. 用竖式计算。

74 + 9 =　　7 + 46 =　　56 + 4 =

2. 一本故事书有 75 页。第一天看了 18 页，第二天看了 9 页。两天一共看了多少页？

□ ○ □ = □（页）

3. 用自己喜欢的方法计算。

36 + 3 =	7 + 48 =	51 + 8 =
46 + 20 =	52 + 6 =	42 − 30 =
54 − 30 =	31 + 9 =	67 + 7 =

4. 蜜蜂回家。

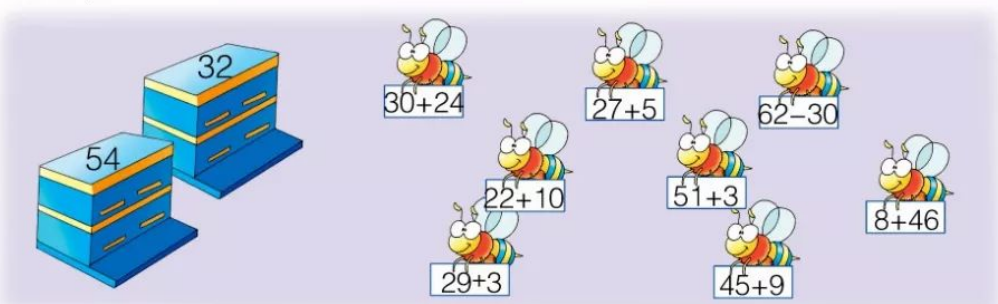

微信公众号：电子课本大全

练 习

1．先判断和的十位上是几，再计算。

56 + 3 =　　56 + 8 =



2．口算下面各题。

42 + 7 =　　54 + 3 =　　60 + 5 =

45 + 7 =　　54 + 30 =　　6 + 50 =



3．算一算，比一比。

32 + 50 =　　45 + 8 =　　60 + 7 =

50 + 32 =　　8 + 45 =　　7 + 60 =



4．动物医院。



练一练

1．先判断和的十位上是几，再计算。

7 + 46 =　　52 + 40 =　　47 + 3 =

53 + 4 =　　45 + 9 =　　34 + 50 =

微信公众号：电子课本大全

2. 40 + 5 =　　66 − 40 =　　38 + 30 =

25 + 8 =　　34 + 7 =　　43 − 30 =

80 − 30 =　　78 − 60 =　　65 + 9 =

3.



22 + 4 ◯ 30

51 + 7 ◯ 62

69 ◯ 63 + 6

54 ◯ 45 + 4

4. 各买一个，共需要多少元？



25 元



8 元

□ ◯ □ = □（元）

5. 租车方案。



有 78 名同学和 5 名老师去郊游，可以怎样租车？









微信公众号：电子课本大全

两位数减一位数

小强还有多少张画片？



46 − 4 = ☐（张）

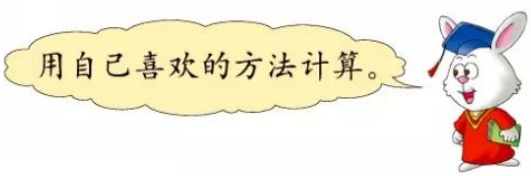

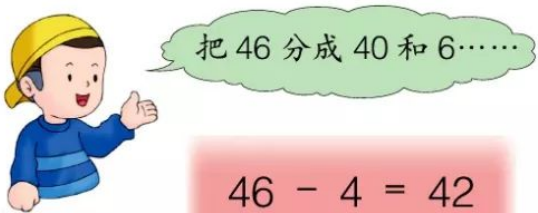

46 − 4 = 42

40　6

2



46 − 4 = 42

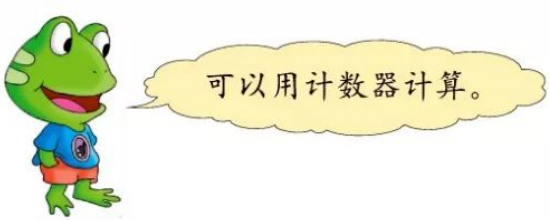

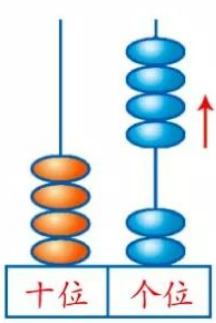

微信公众号：电子课本大全



还可以写成竖式，用笔算。

十	个
4	6
−	4

→

十	个
4	6
−	4
4	2

$$\begin{array}{r} 46 \\ -\ 4 \\ \hline 42 \end{array}$$

笔算减法，把相同数位对齐，从个位减起。

试一试

78 − 5 =　　69 − 8 =　　46 − 6 =

练一练

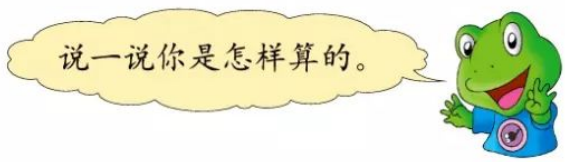

说一说你是怎样算的。

1. 用竖式计算。



48	79	54
− 6	− 7	− 4

2. 还剩多少瓶饮料？







喝了5瓶。

□ ○ □ = □（瓶）

3. 58 − 6 =　　26 − 3 =　　35 − 4 =

47 − 5 =　　89 − 7 =　　79 − 9 =

微信公众号：电子课本大全

还要植多少棵树？



34 − 8 = ☐（棵）





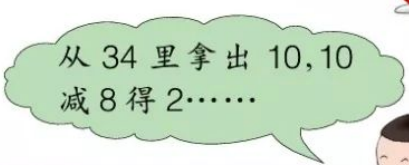



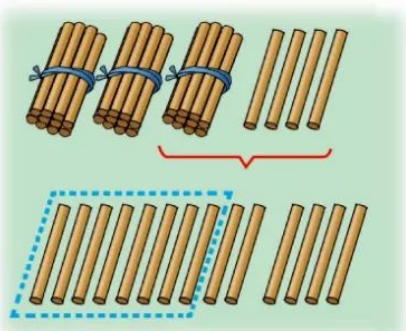

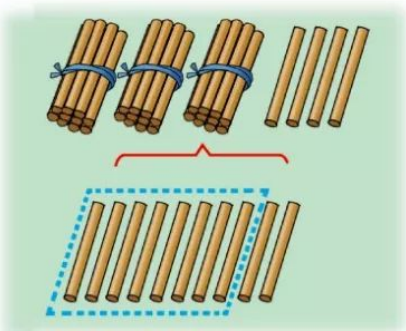

34 − 8 = 26
20 14
6

34 − 8 = 26
24 10
2

微信公众号：电子课本大全



用竖式这样算：

这个“.”表示什么？



十	个
3	4
−	8

→

十	个
3	4
−	8
2	6

	3	4
−		8
	2	6

个位不够减，从十位借 1 再减。

试一试

61 − 9 =　　42 − 7 =　　94 − 6 =

练一练

1. 用竖式计算。

38 − 9 =　　43 − 6 =　　80 − 7 =

2. 用 50 元钱买一个铅笔盒，还剩多少元钱？



9 元

□ ○ □ = □（元）

3. 一本 68 页的故事书，已经看了 9 页，还有多少页没有看？

□ ○ □ = □（页）

4. 11 − 8 =　　51 − 7 =　　32 − 7 =

42 − 8 =　　14 − 6 =　　83 − 6 =

微信公众号：电子课本大全

练　习

1．先判断差的十位上是几，再计算。

55 － 3 =

55 － 9 =

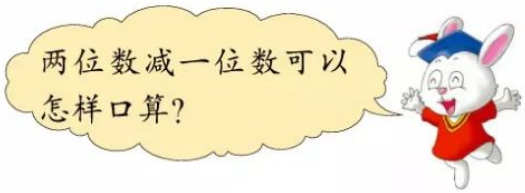

2．口算下面各题。

46 － 5 =　　58 － 3 =

46 － 7 =　　58 － 30 =

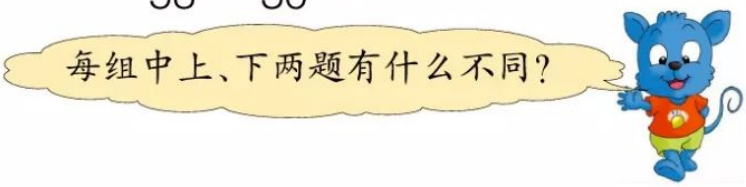

3．



+7	+20	−8	+9	−20	+30
30					



4．动物医院。



5．还剩下多少个西瓜？

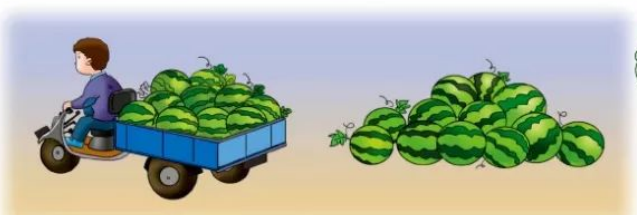



□ ○ □ = □（个）

微信公众号：电子课本大全

练一练

1. 先判断差的十位上是几，再计算。

78 − 6 =	60 − 30 =	33 − 5 =
64 − 7 =	49 − 5 =	70 − 4 =

2. 青蛙过河。

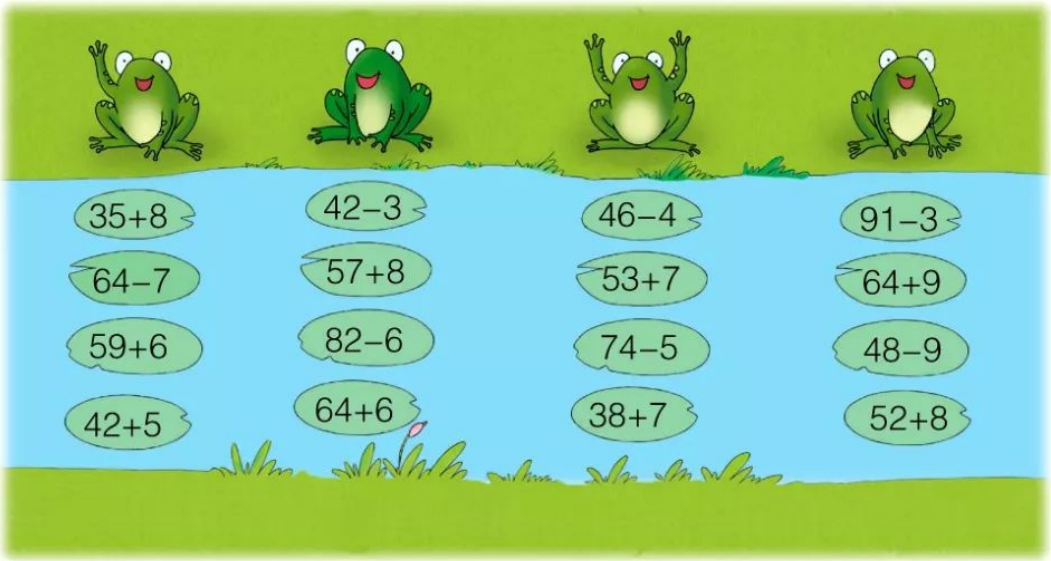

3. 妈妈买来一箱苹果，吃了一星期后还剩下 8 个。算一算：吃了多少个苹果？

□ ○ □ = □（个）

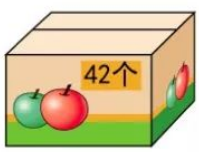

数学游戏



微信公众号：电子课本大全

小兔拔萝卜。



(1)拔的红萝卜比胡萝卜多几个?

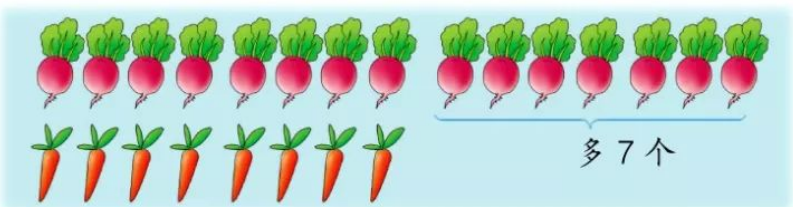

15 − 8 = 7(个)

(2)拔的红萝卜比白萝卜多几个?

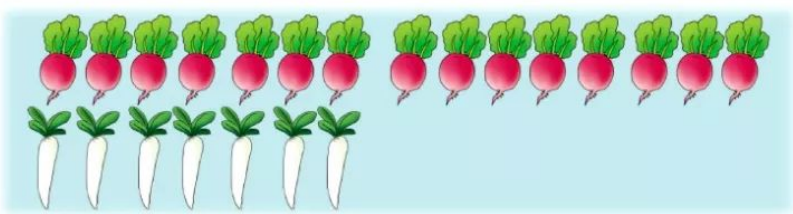

15 − □ = □(个)

练一练

1.



 比  多几只? □ ○ □ = □(只)

微信公众号:电子课本大全

2．大客车比小汽车多坐多少人？

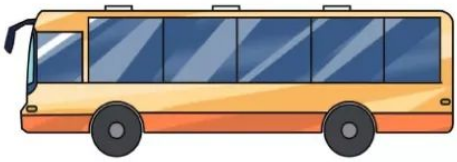

42 人



4 人

□ ○ □ = □（人）

3．松鼠摘的松果比树上剩下的多多少个？



□ ○ □ = □（个）

4．王奶奶养了 34 只母鸡，6 只公鸡。王奶奶养的母鸡比公鸡多多少只？

□ ○ □ = □（只）

5．一共捉了多少只蚊子？



□ ○ □ = □（只）

微信公众号：电子课本大全

妈妈和儿子的年龄。





$$32 - 7 = 25\ (岁)$$







试一试

王大爷养着 35 只白兔，20 只灰兔。





微信公众号：电子课本大全

练一练

1.



大燕子比小燕子多捉了多少只虫子？

□ ○ □ = □（只）

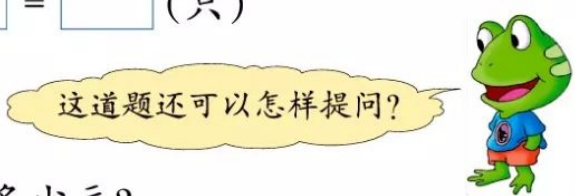

2. 一个书包比一个铅笔盒贵多少元？



32 元



9 元

□ ○ □ = □（元）

3.



丫丫踢了 25 下，
聪聪踢了 20 下。



4. (1) 43 比 5 大（　　），5 比 43 小（　　）。
(2) 7 比 30 小（　　），30 比 7 大（　　）。

5. 根据自己和妈妈或爸爸的年龄提出问题，并解答。

微信公众号：电子课本大全

提问题，并解答。







46 − 30 = 16（本）

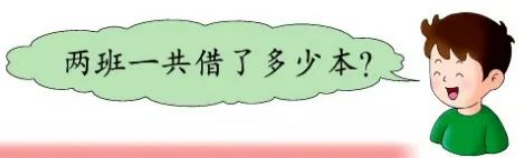

30 + 20 = 50（本）

练一练

1. 读书问题。

(1) 一本故事书有 82 页，红红看了多少页？



□ ○ □ = □（页）

微信公众号：电子课本大全

(2) 一本连环画有 76 页，聪聪还剩多少页没看？



□ ○ □ = □（页）

2.

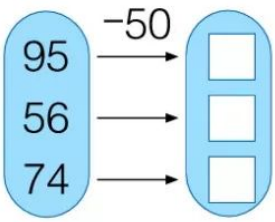

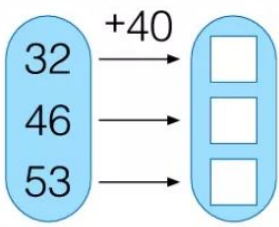

3. 在○里填上 >、< 或 =。

47 ○ 47 − 30　　36 ○ 42 − 7　　28 ○ 85 − 60

56 ○ 76 − 20　　98 ○ 46 + 50　　32 ○ 25 + 8

4. 把正确答案圈起来。

(1) □ − 30 = 52

22	82

(2) 85 − □ = 35

45	50

5. 提问题，并解答。



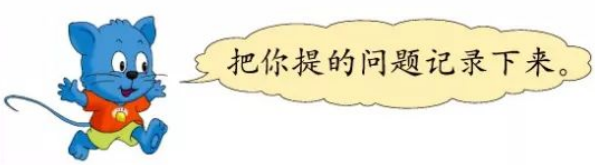

微信公众号：电子课本大全

游戏中的数学。



微信公众号：电子课本大全



自主小天

我提的

微信公众号：电子课本大全

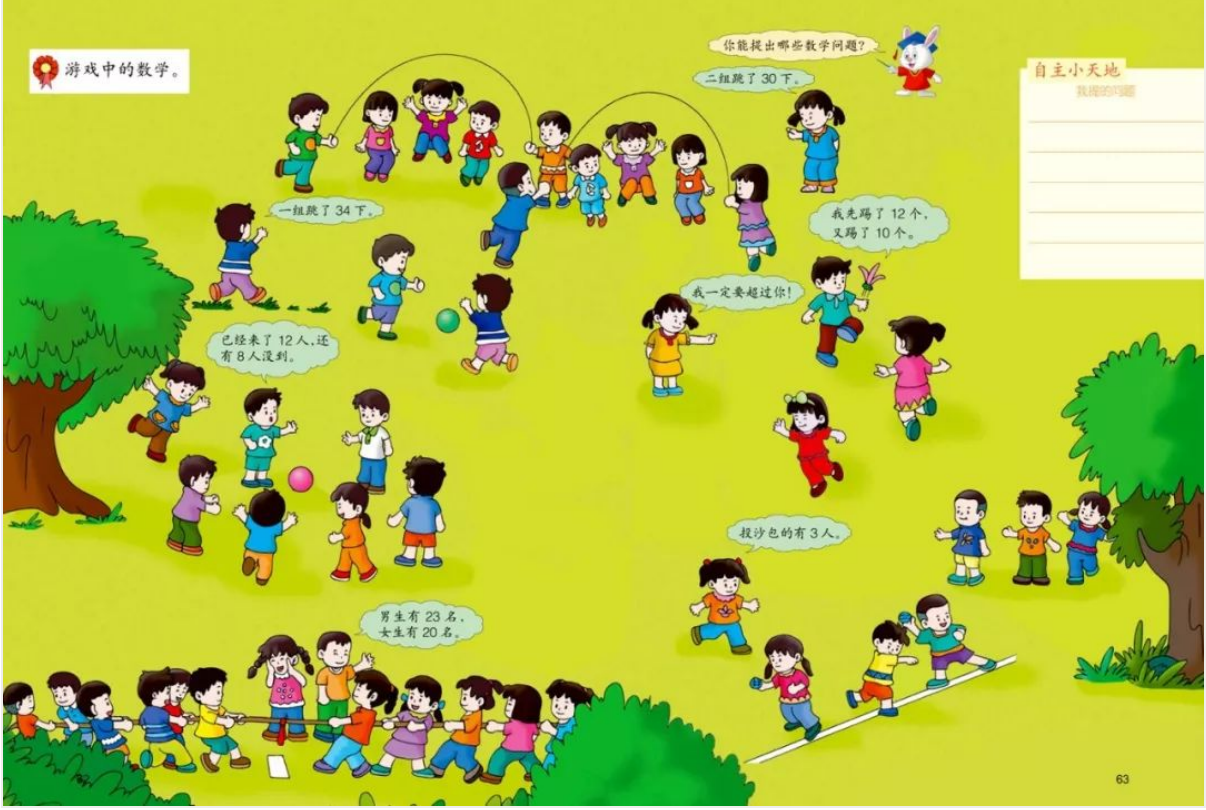

微信公众号：电子课本大全

整理与复习

1. 63 + 20 =　　75 + 4 =　　38 − 6 =
   63 − 20 =　　75 + 9 =　　38 − 9 =



2. 聪聪和亮亮看同样一本 80 页的数学读物。



练一练

1. 口算下面各题。

(1) 8 + 6 =　　13 − 5 =　　16 − 9 =
15 − 7 =　　6 + 5 =　　8 + 7 =
3 + 8 =　　12 − 9 =　　14 − 8 =

(2) 35 + 7 =　　46 + 8 =　　76 − 4 =
36 − 9 =　　28 + 50 =　　82 − 40 =
42 − 5 =　　36 + 7 =　　45 + 50 =

2. 幼儿园买来一箱苹果，发给小朋友 30 个，还剩 14 个。这箱苹果原来有多少个?

□ ○ □ = □（个）

微信公众号：电子课本大全

3．李明有 30 张画片，张亮有 9 张画片。张亮的画片比李明的少多少张？

□ ○ □ = □（张）

4．买衣服。













5．选择卡片上的数写出算式。

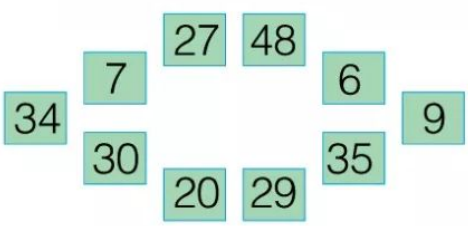

自主小天地

我写的算式

微信公众号：电子课本大全

六 认识图形（二）



找出长方体和正方体积木，描一描。





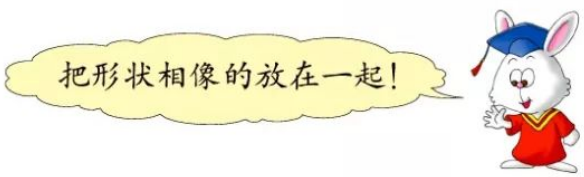

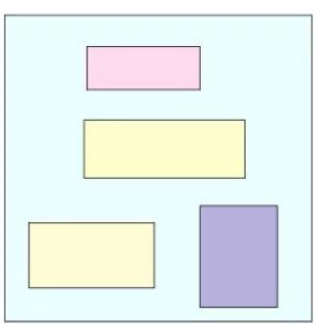

长方形

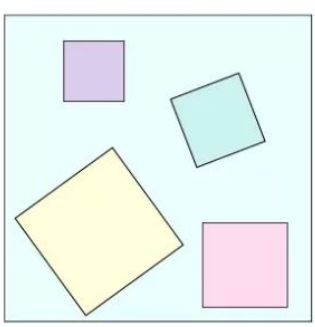

正方体

微信公众号：电子课本大全

议一议 你知道哪些物品的面是长方形的，哪些物品的面是正方形的吗？



国旗是长方形的。



手帕是正方形的。









还有呢？



观察正方体和长方体的表面。

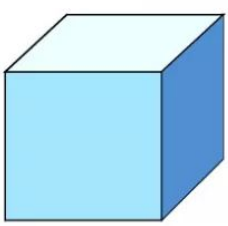

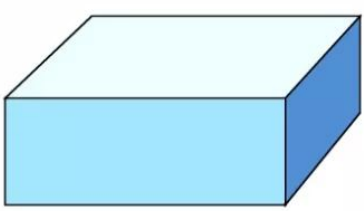

说一说

1．正方体有几个面，都是什么形状的？

2．长方体有几个面，各是什么形状的？

你是怎样知道的？



微信公众号：电子课本大全

练一练

1. 下图中，哪些物品的面是长方形的，哪些物品的面是正方形的？



2. 在方格纸上描出一个长方形和一个正方形。

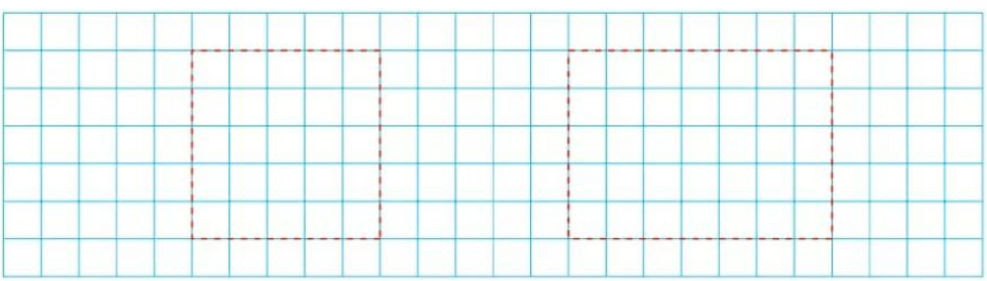

3. 涂上自己喜欢的颜色，再数一数。

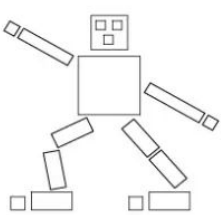

□	（　）个
□	（　）个

4*. 你能从图中找出 3 个长方形吗？

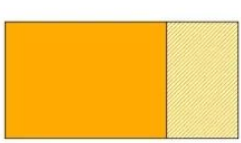



微信公众号：电子课本大全

分一分。

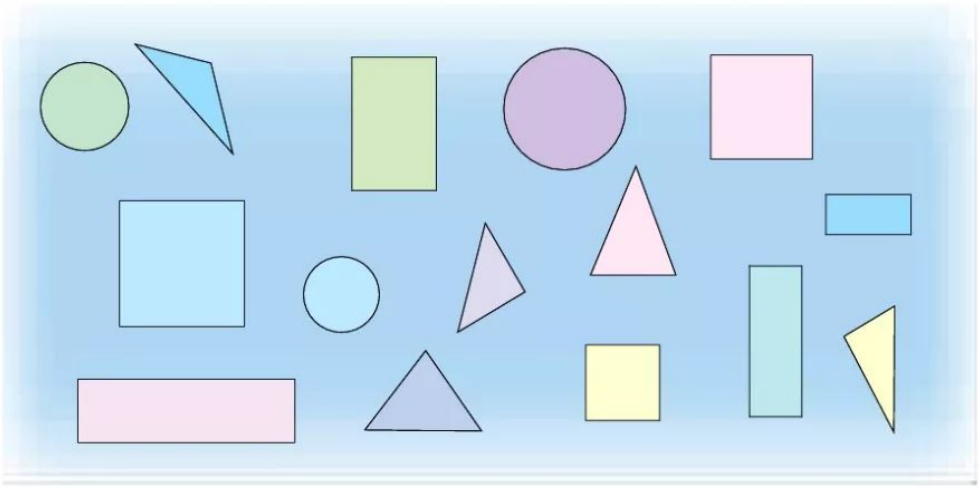





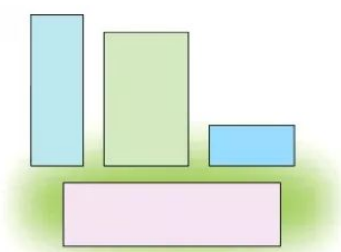

长方形



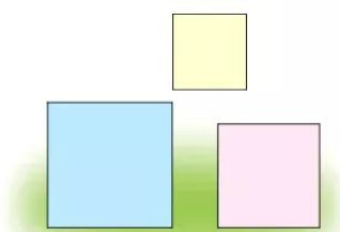

正方形





三角形





圆

微信公众号：电子课本大全

说一说 哪些物品的面是三角形的，哪些物品的面是圆的？

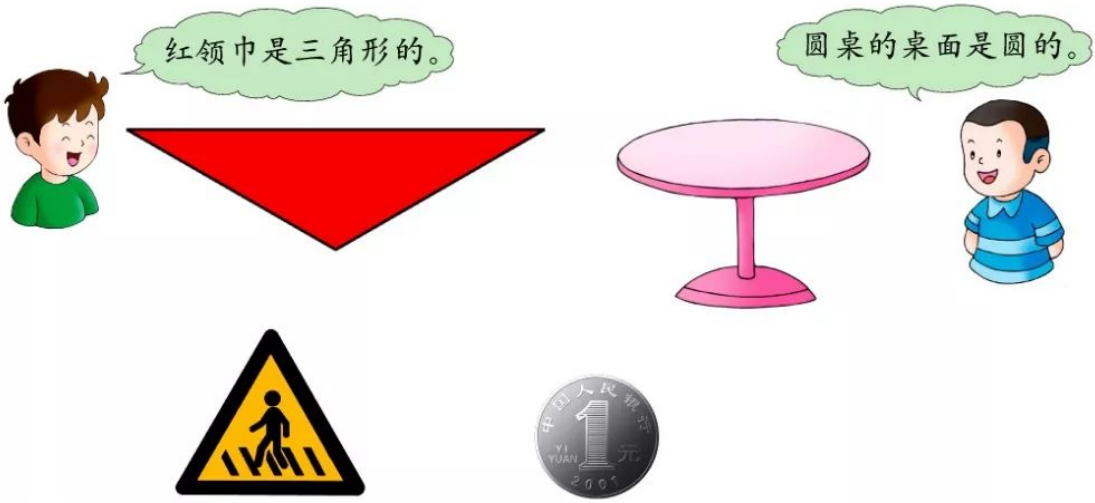

观察球。



想一想 如果把球切成两半，它的切面是什么形状的？



观察圆柱。



议一议

(1) 圆柱的上面和下面是什么形状的？

(2) 猜想一下：它们的大小一样吗？

微信公众号：电子课本大全



练一练

1．在方格纸上画出长方形、正方形和三角形。

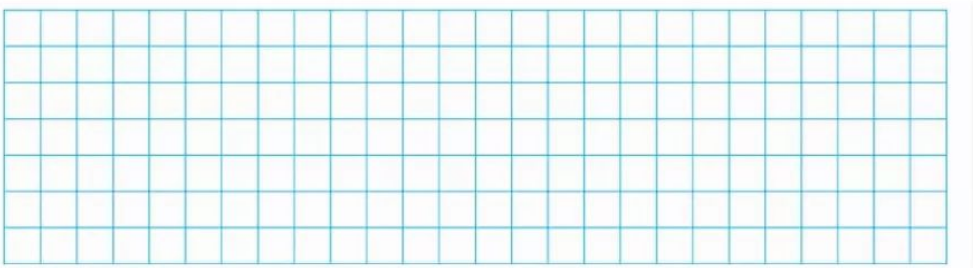

2．涂上你喜欢的颜色。

(1)给三角形涂色。

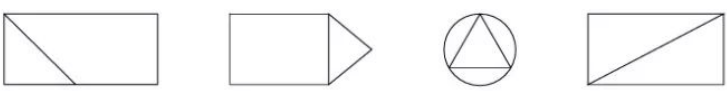

(2)给圆涂色。



3．摆一摆。

(1)用  摆一个三角形。

(2)摆两个三角形最少用几根小棒？摆三个呢？



微信公众号：电子课本大全

折一折。

(1) 拿一张正方形纸，把它折成相等的两部分。

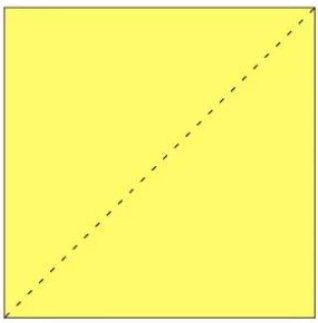

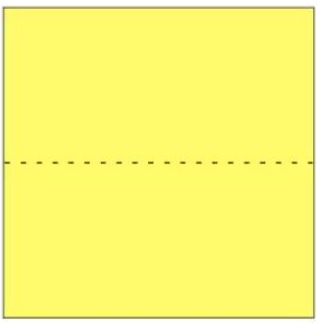

(2) 拿一张正方形纸，把它折成相等的 4 部分。





(3) 拿一张长方形纸，把它折成相等的两部分，怎么折？





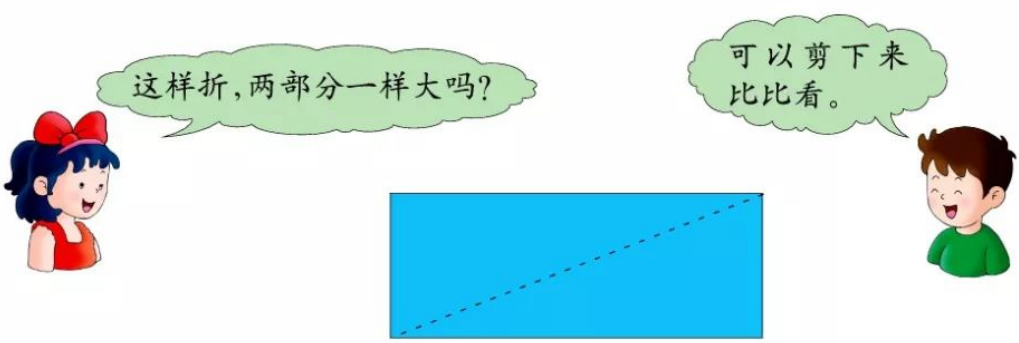

微信公众号：电子课本大全

剪一剪，拼一拼。

(1)把一张长方形纸剪成两个一样的三角形，用这两个三角形拼成一个三角形。

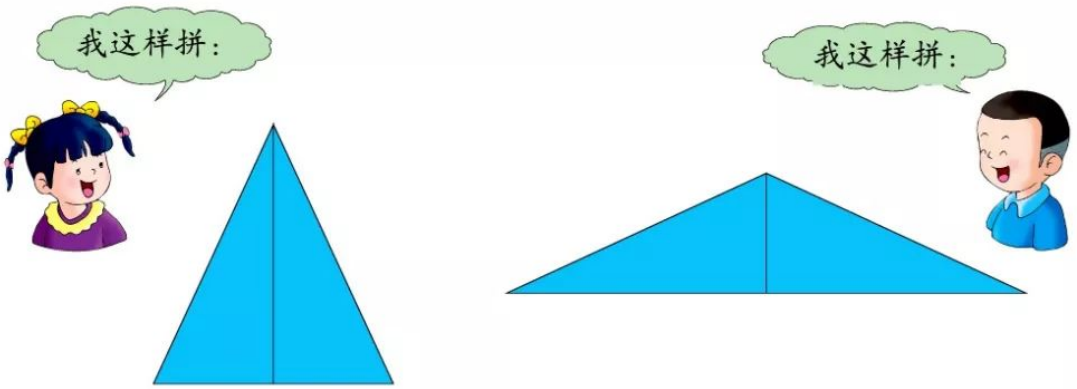

(2) 把一张正方形纸剪成 4 个一样的三角形，用这 4 个三角形拼成另外一个形状。



数学冲浪

下面的拼图是由标有数字的拼块中的 5 块拼成的。在拼图中标出拼块上的数字。

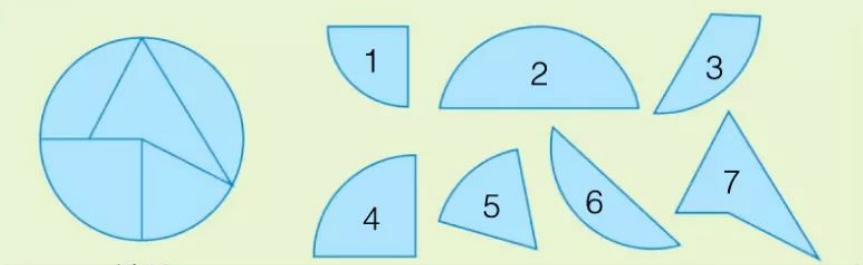

拼图

微信公众号：电子课本大全

七 100以内的加法和减法（二）

两位数加两位数

少年合唱团一共有多少名学生？



23 + 22 = □（名）



自己试着算一算。



我这样算：

23 + 20 = 43

43 + 2 = 45



我这样算：

3 + 2 = 5

20 + 20 = 40

40 + 5 = 45



用竖式这样算：

十	个
2	3
+ 2	2
4	5

相同数位对齐，从个位加起。

微信公众号：电子课本大全

试一试

24 + 32 =　　53 + 26 =　　62 + 35 =



和同学交流一下你的计算方法和结果。

练一练

1. 用 80 元钱购买下面一套衣服，够吗？



42 元



35 元

2.

25 + 43	64 + 23	17 + 82	56 + 41

自主小天地

用 1、2、3、4、5 中的任意两个数字组成两个两位数，再做加法。如，12+21=33。



通过上面的计算，你发现了什么？

微信公众号：电子课本大全

果园里一共有多少棵果树？



36 + 18 = ☐（棵）





用小棒摆一摆，并试着用竖式计算。

这个“5”是怎么算出来的？



用竖式这样算……

$$\begin{array}{r} 3\ 6 \\ +\ 1_{1}\ 8 \\ \hline 5\ 4 \end{array}$$





议一议 怎样做笔算加法？



微信公众号：电子课本大全

试一试

34 + 47 =　　27 + 63 =　　43 + 48 =



练一练

1. 幼儿园有 70 名小朋友。把下面这些苹果分给小朋友，每人分一个，够吗？



2. 看图列式计算。





3. 用竖式计算。

65 + 26 =

$$\begin{array}{r} 65 \\ +\ 26 \\ \hline \end{array}$$

15 + 57 =

$$\begin{array}{r} 15 \\ +\ 57 \\ \hline \end{array}$$

34 + 46 =

$$\begin{array}{r} 34 \\ +\ 46 \\ \hline \end{array}$$

数学冲浪

在□里填上合适的数字。

$$\begin{array}{r} 3\square \\ +\ \square 5 \\ \hline 62 \end{array}$$

$$\begin{array}{r} 46 \\ +\ \square\square \\ \hline 80 \end{array}$$

$$\begin{array}{r} \square 3 \\ +\ 2\square \\ \hline 57 \end{array}$$

微信公众号：电子课本大全

回收旧电池。



一年级	二年级	合 计
25 节	48 节	

25 + 48 = □（节）

兔博士网站

电池的危害

据统计，现在我国每人每年平均用电池 3~4 节。随手扔在农田里的一节 1 号废电池，可使大约两个课桌面大小的土地失去农用价值。





先判断和的十位上是几，再计算。



和的十位上应该是 7。

有 70 多节。





说一说你是怎样判断的。



因为个位上 5 加 8 超过 10，要进位……

$$\begin{array}{r} 2\ 5 \\ +\ 4\ 8 \\ \hline \square\ \square \end{array}$$

练一练

1. 先判断和的十位上是几，再计算。

37 + 56 =　　56 + 24 =　　63 + 25 =

微信公众号：电子课本大全

2．小蝌蚪找妈妈。

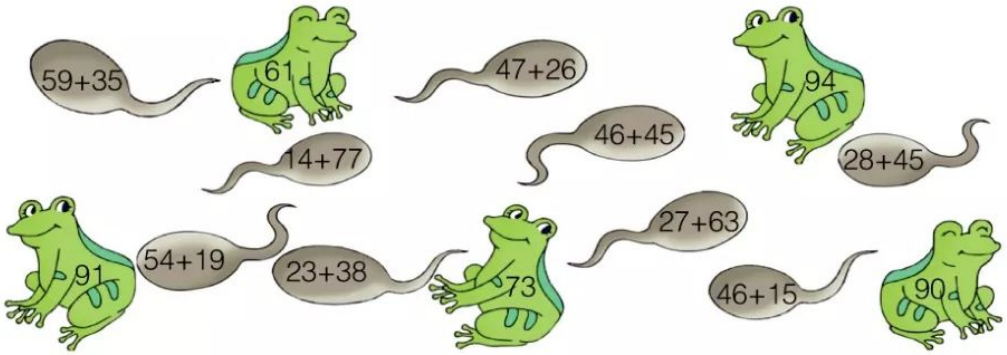

3．同学们到公园去浇花，已经浇了 28 盆。



□ ○ □ = □（盆）

问题讨论

二十几加三十几结果可能是多少？



微信公众号：电子课本大全

一共有多少枝玫瑰？





24 + 18 = ☐（枝）

$$\begin{array}{r} 2\ 4 \\ +\ 1\ 8 \\ \hline 4\ 2 \end{array}$$







24 + 10 = 34

34 + 8 = 42



20 + 10 = 30

4 + 8 = 12

30 + 12 = 42



24 + 20 = 44

44 − 2 = 42



微信公众号：电子课本大全

试一试

用自己喜欢的方法计算。

37 + 44 =　　28 + 35 =　　72 + 19 =

练一练

1. 提问题，并解答。



2. 小狗啃骨头。



自主小天地

试着写出两个数相加等于整十数的算式。

微信公众号：电子课本大全

两位数减两位数



投票结果：
北京56票
多伦多22票
巴黎18票
伊斯坦布尔9票



北京比多伦多多得多少票？

56 − 22 = □（票）





56 − 20 = 36
36 − 2 = 34





6 − 2 = 4
50 − 20 = 30
30 + 4 = 34

兔博士网站

北京申奥成功

2001 年 7 月 13 日，在莫斯科召开的国际奥委会第 112 次全会第 2 轮投票中，北京获得 56票，取得 2008 年奥运会主办权。其他三个候选城市所获的票数为：多伦多(加拿大)22 票，巴黎(法国)18 票，伊斯坦布尔(土耳其)9 票。

十	个
5	6
− 2	2
3	4



微信公众号：电子课本大全

试一试

36 − 14 =　　79 − 48 =　　85 − 65 =



练一练

1.

47 − 25	38 − 14	79 − 56	48 − 37

2. 小兔拔萝卜。

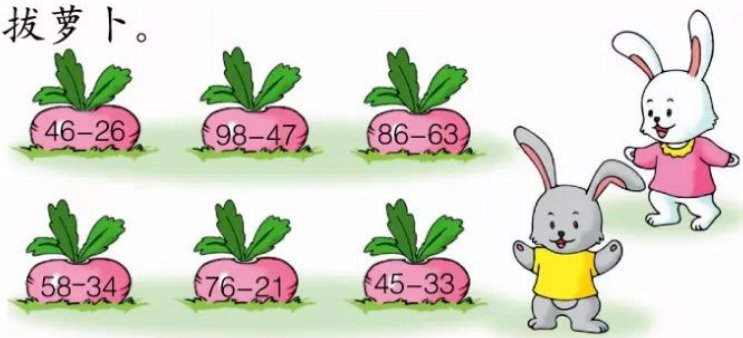

3. 妈妈买来一箱鸡蛋，吃了 28 个，还剩 16 个。这箱鸡蛋原来有多少个？

□ ○ □ = □（个）

4.* 汽车上还有几个空座位？



微信公众号：电子课本大全

北京比巴黎多得多少票？

投票结果：
北京56票
多伦多22票
巴黎18票
伊斯坦布尔9票

56 － 18 = □（票）



用小棒摆一摆，再试着用竖式计算。

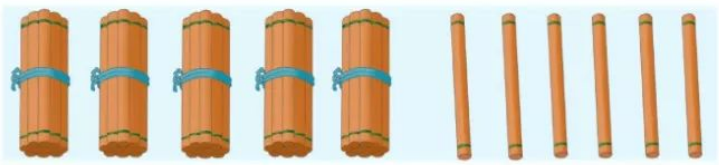



用竖式这样算：

十位上的“3”是怎么算出来的？



$$\begin{array}{r} 56 \\ -\ 18 \\ \hline 38 \end{array}$$



议一议 怎样做笔算减法？

相同数位对齐。

从个位减起。

个位不够减，从十位借 1……





用竖式算一算。



54 － 28 =　　84 － 67 =　　91 － 32 =

微信公众号：电子课本大全

练一练

1. 多伦多比巴黎多得多少票？

□ ○ □ = □（票）

投票结果：
北京56票
多伦多22票
巴黎18票
伊斯坦布尔9票

2. 用竖式计算。

40 - 16 =

```
  40
- 16
```

83 - 45 =

```
  83
- 45
```

62 - 38 =

```
  62
- 38
```

3. 小兔子回家。

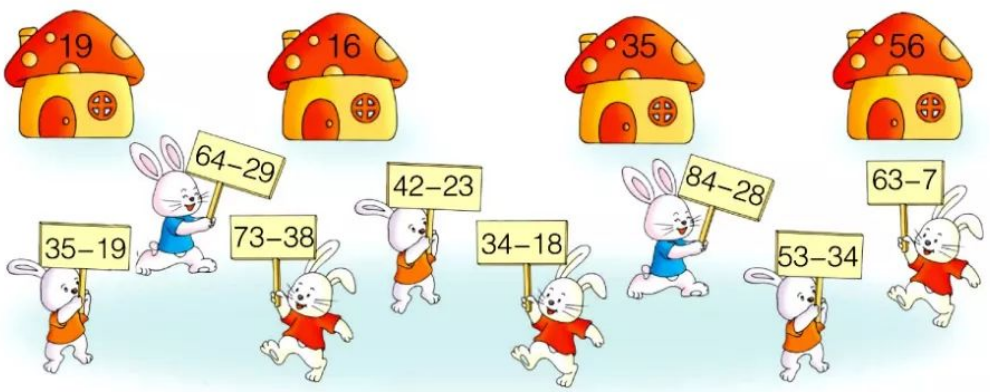

自主小天地

用 1~9 中任意两个相邻的数字组成两个两位数，再用较大数减去较小数。如，21-12=9。



微信公众号：电子课本大全

小明还有多少张邮票？



82 − 28 = □（张）



先判断差的十位上是几，再计算。



差的十位上应该是 5。

说一说你是怎样判断的。





因为个位上 2 减 8 不够减，要向十位借 1……

$$\begin{array}{r} \dot{8}\ 2 \\ -\ 2\ 8 \\ \hline \square\square \end{array}$$

试一试

先判断差的十位上是几，再计算。

100 − 32 =　　47 − 25 =　　86 − 68 =

练一练

1．丫丫比亮亮少多少张纪念邮票？



□ ○ □ = □（张）

2．写出 5 道 100 减去两位数的算式，再算一算。



你发现了什么？

微信公众号：电子课本大全

一辆大客车比一辆中巴车多载客多少人？



42 − 27 = ☐（人）

$$\begin{array}{r} \dot{4}\ 2 \\ -\ 2\ 7 \\ \hline 1\ 5 \end{array}$$







42 − 20 = 22

22 − 7 = 15



42 − 30 = 12

12 + 3 = 15

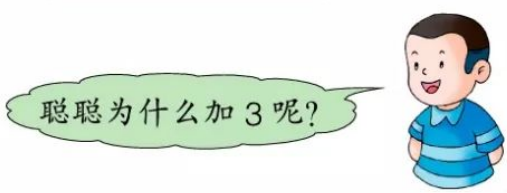

试一试

用自己喜欢的方法计算。

45 − 28 =　　74 − 39 =　　62 − 47 =

微信公众号：电子课本大全

练一练

1. 一辆旅游车上坐满游客，其中有 17 名外国游客。算一算：车上有多少名中国人？



□ ○ □ = □（名）

2. 在天平右边的盘内放上合适的砝码，使天平保持平衡。

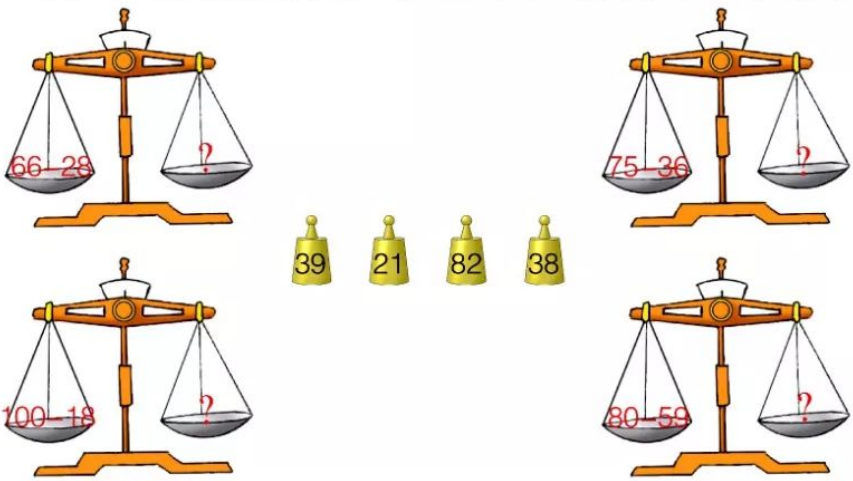

3. 接力赛。

(1)



(2)



微信公众号：电子课本大全

提问题，并解答。





坐小火车和坐过山车的一共有多少人？

坐过山车的比坐小火车的多多少人？



练一练

你知道爷爷、奶奶的年龄吗？根据家庭成员的年龄提出数学问题。







（　　）岁　（　　）岁　（　　）岁　（　　）岁　（　　）岁

微信公众号：电子课本大全

整理与复习

1. 先判断得数的十位上是几，再计算。

23 + 31 =	48 − 22 =	57 + 35 =
96 − 79 =	28 + 49 =	77 − 25 =
27 + 69 =	64 − 46 =	80 − 34 =



把你计算的方法和结果与同学交流一下。

2. 月季花有红色的，有黄色的，还有白色的。





你能提出哪些数学问题？

练一练

1. 口算。

30 + 5=	63 − 20=	8 + 26=	67 − 9=
48 + 7=	59 − 0=	24 − 8=	0 + 44=
36 + 8=	42 +10=	56 − 26=	42 − 3=
96 − 5=	51 − 7=	24 + 3=	64 + 6=
46 − 4=	80 − 6=	25 + 9=	34 + 5=

2. 用你喜欢的方法计算。

33 + 65 =	59 + 26 =	74 − 46 =
62 − 38 =	48 + 25 =	82 − 28 =
90 − 58 =	47 − 29 =	56 − 37 =

微信公众号：电子课本大全

3．原来有多少个西瓜？



□ ○ □ = □（个）

4．池塘里的鸭子比鹅多多少只？



□ ○ □ = □（只）

5．爸爸给丫丫买一个台灯和一双运动鞋，100 元钱够吗？



6．各是谁的帽子？



数学冲浪

在□里填上合适的数字。

$$\begin{array}{r} 7\,\square \\ -\,\square\,2 \\ \hline 1\;\;3 \end{array} \qquad \begin{array}{r} \square\,6 \\ +\,4\,\square \\ \hline 8\;\;2 \end{array} \qquad \begin{array}{r} \square\,\square \\ -\,3\;\;6 \\ \hline 2\;\;3 \end{array}$$

微信公众号：电子课本大全

八 探索乐园



微信公众号：电子课本大全



我发现彩旗的排列是有规律的。



我发现彩带也是有规律地排列的。





用自己的话描述一下发现的规律。



找规律。

(1) 

(2) 

(3) 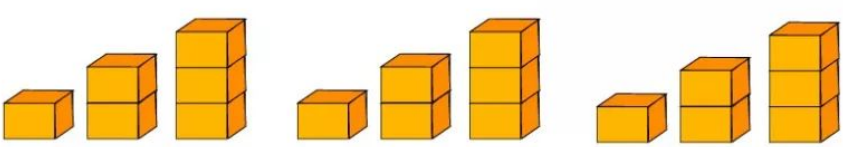

微信公众号：电子课本大全

练一练

1. 按规律，横线上该放什么？画出来。

(1)  _____

(2)  _____

(3) 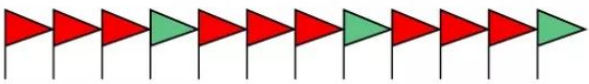 _____

2. 按规律，把图形涂上合适的颜色。

3. 找规律，在□里填上合适的数。

(1) 1，2，3，1，2，3，1，2，3，□，□，□，□，□，□

(2) 2，2，5，2，2，5，2，2，5，□，□，□，□，□，□

4. 按自己确定的规律涂色。

(1) ☆☆☆☆☆☆☆☆☆☆☆☆

(2) ☼☼☼☼☼☼☼☼☼☼☼☼

微信公众号：电子课本大全

找规律，在“?”处填上合适的数。

(1)



(2)

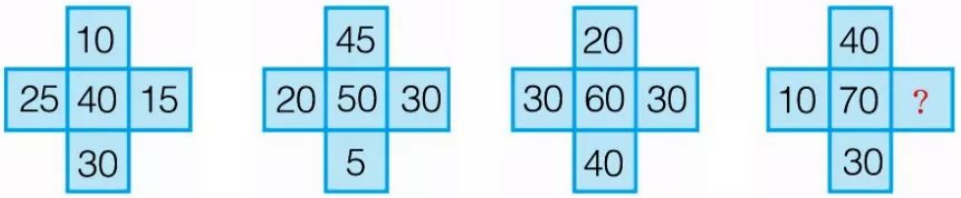

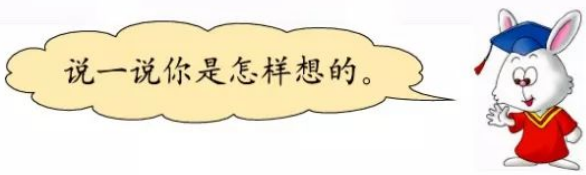

按要求填数。

(1) 在○里填上合适的数，使每条边上的三个数相加都等于30。

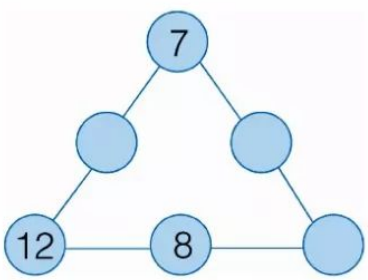



(2) 在○里填上合适的数，使横、竖三个数相加都等于54。

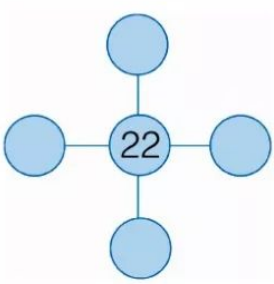

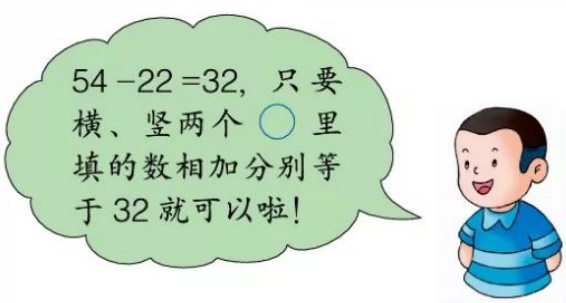

微信公众号：电子课本大全

练一练

1. 找规律，在“?”处填上合适的数。

(1)

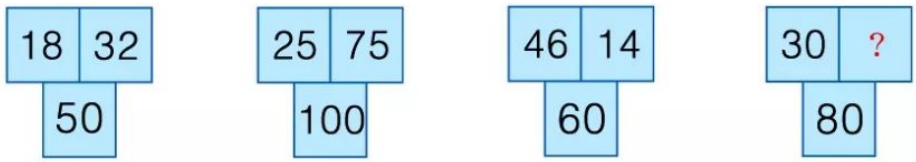

(2)

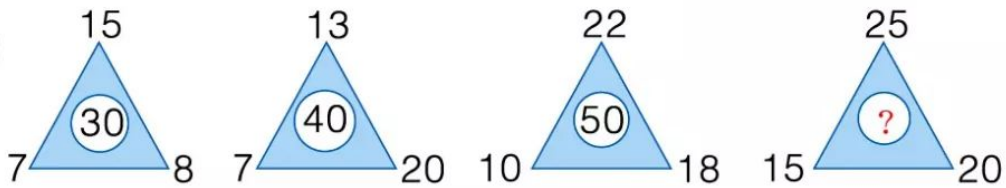

2. (1) 在○里填上合适的数，使每条边上的三个数相加都等于72。

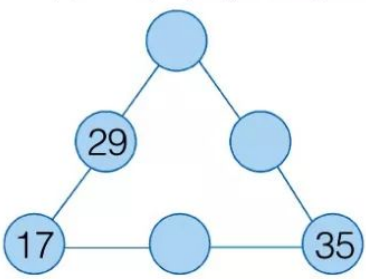

(2) 把40、50、60填在○里，使每条边上的三个数相加都等于90。

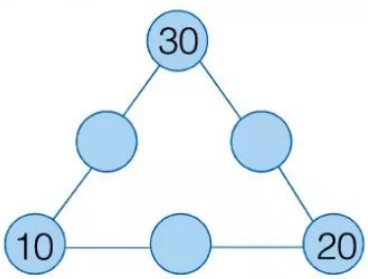

3.* (1) 把10~50五个整十数填在○里，使横、竖三个数相加的和一样。

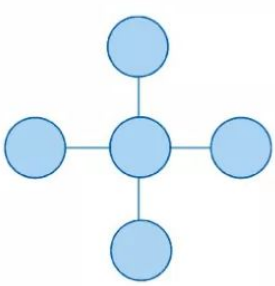

(2) 把10~70七个整十数填在○里，使每条线上的三个数相加都等于100。

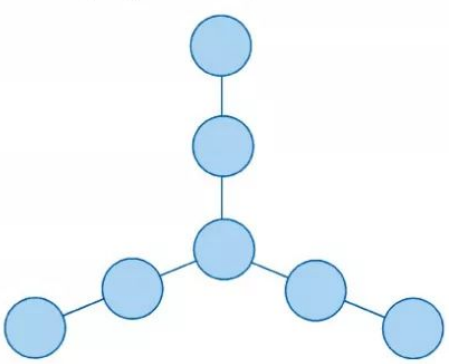

微信公众号：电子课本大全

整理与评价

知识与技能

1．数一数。



先估计一下有多少只瓢虫，再数一数。



说一说你是怎样数的。



微信公众号：电子课本大全

2. 找朋友。



3. 填空。

(1)4 个十是(　　)。

(2)6 个十和 3 个一是(　　)。

(3)97 里面有(　　)个十和(　　)个一。

(4)和 81 相邻的数是(　　)和(　　)。

(5)在 47、58、63、77、82、98 这几个数中，最接近 60 的是(　　)，最接近 80 的是(　　)。

4. 用“大一些”“小一些”“大得多”“小得多”等说出下面各数之间的大小关系。

45　　78　　38　　70　　51



□○□○□○□○□

微信公众号：电子课本大全

5. 看谁算得又对又快。

(1) 6 + 9 =　　14 − 8 =　　7 + 6 =

15 − 7 =　　8 + 4 =　　16 − 9 =

8 + 3 =　　12 − 6 =　　17 − 8 =

7 + 9 =　　10 + 4 =　　19 − 9 =

(2) 30 + 50 =　　56 − 30 =　　32 + 6 =

65 + 9 =　　40 + 34 =　　76 − 5 =

47 − 8 =　　78 − 6 =　　4 + 62 =

82 + 10 =　　36 − 7 =　　98 − 8 =

6. 用竖式计算。

47 + 25 =　　68 + 16 =　　63 + 27 =

56 − 28 =　　82 − 18 =　　57 − 35 =

7. 在 □ 里填上合适的数字。

3 7	5 □	8 □	□ 0
+ □ □	+ □ 0	− □ 5	− 1 □
7 0	8 6	3 8	2 4

8. 玩具店一周卖出 27 个玩具熊，还剩 18 个。原来有多少个玩具熊？

□ ○ □ = □（个）

9. 刘奶奶养的小鸡和小鸭共有 43 只。



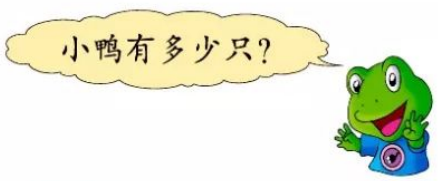

□ ○ □ = □（只）

10. 幼儿园买来 58 个红皮球和 28 个花皮球。红皮球比花皮球多多少个？

□ ○ □ = □（个）

微信公众号：电子课本大全

11. 买一件上衣，付给售货员 100 元，应该找回多少钱？

□ ○ □ = □（元）



12. 提问题，并解答。


18 元


17 元


22 元


35 元


24 元


20 元





13. 提问题，并解答。



微信公众号：电子课本大全

14. 认一认，填一填。



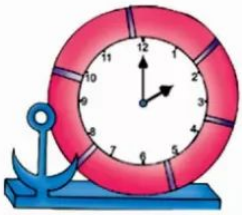



：　　：　　：



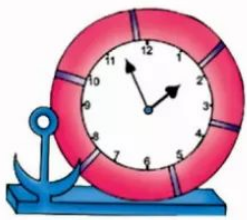



：　　快（　）时了　　（　）时刚过

15. 下面是小丽一天中做的几件事情，请你按先后顺序编上序号。













微信公众号：电子课本大全

16. 欣赏下面一幅画，说出画中事物的位置。



17. 照样子给后面的座位编号。

（　）排

（　）排

一 排



说一说 小朋友坐在（　　）排（　　）号。



微信公众号：电子课本大全

18. 下面的图案是由哪些图形拼成的？各有几个？

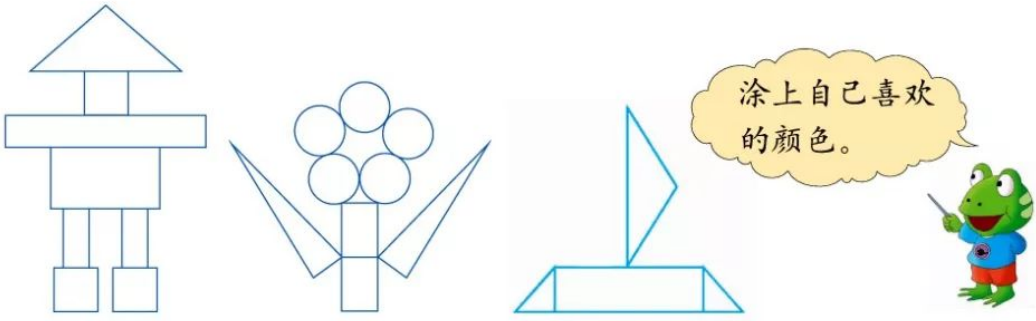

19. 下面的拼图是由标有数字的拼块中的 5 块拼成的。在拼图中标出拼块上的数字。

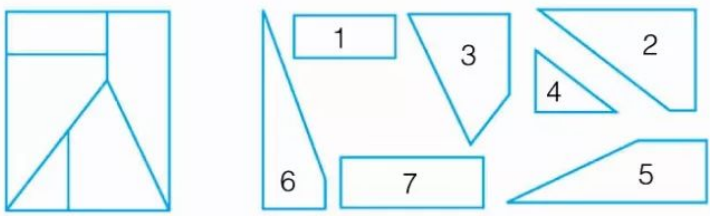

拼图

20. 下面是一个中国象棋的棋盘。



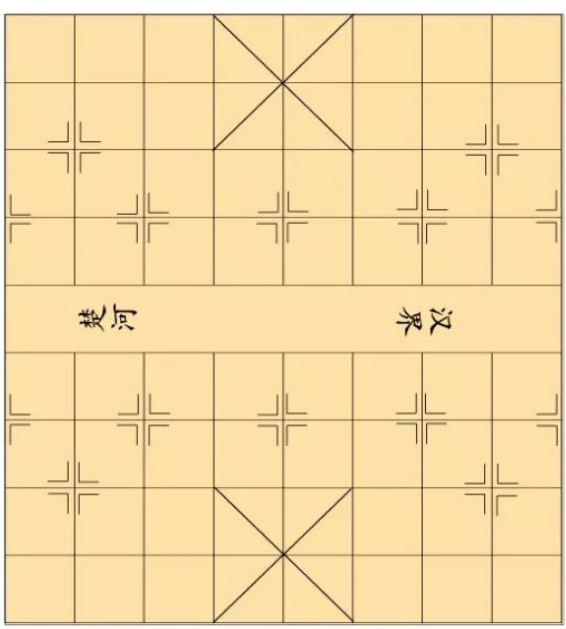

兔博士网站

中国象棋具有悠久的历史。右图就是中国象棋的棋盘。中国象棋有 32 枚棋子。1956 年，中国象棋被定为我国国家体育项目，几乎每年都举行全国性的比赛。

微信公众号：电子课本大全

问题与思考

1. 生活中的数。

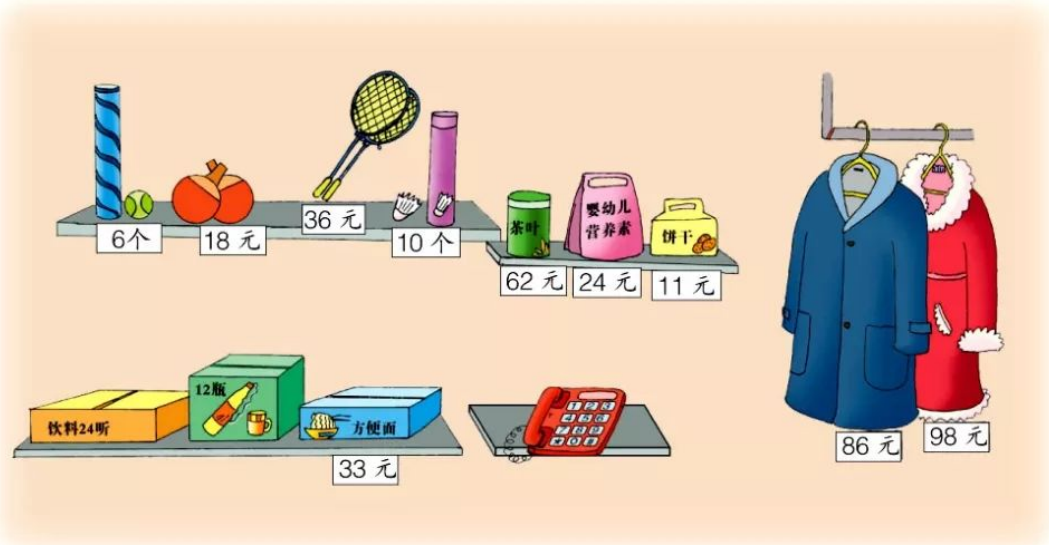

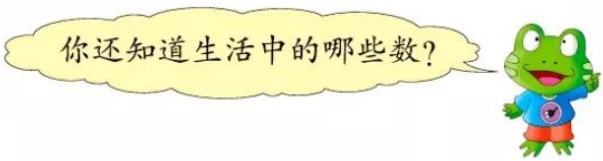





2. 用虚线分成几个不同的图形。

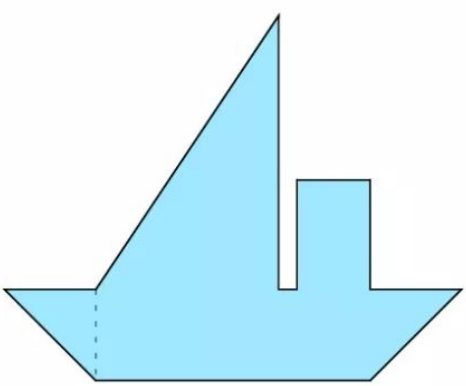

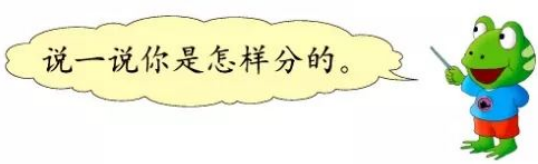

微信公众号：电子课本大全

3. 灯笼可以怎样挂？

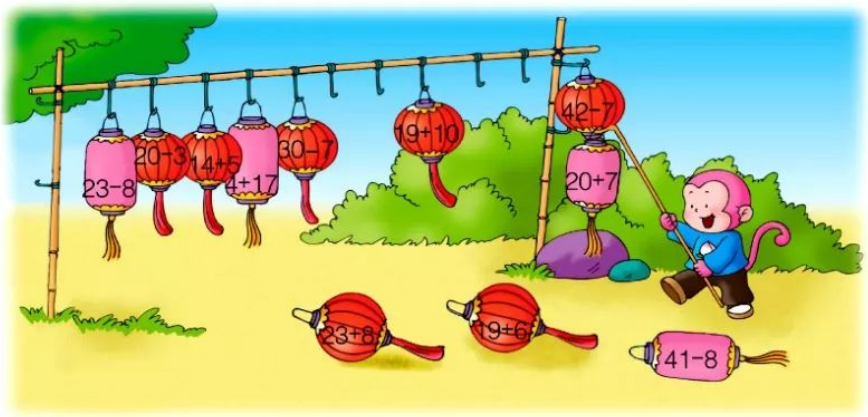

4. 猜一猜：盒子里有几颗珠子？

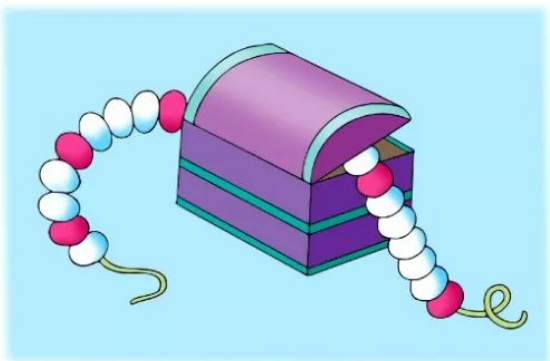

5. 找规律，画图形。

6. 按规律，填出最后一块表上的时刻。



微信公众号：电子课本大全

7. 按规律，在横线上填上合适的数字。

1，1，2，1，1，2，＿＿，＿＿，＿＿，＿＿，＿＿，＿＿

8. 按规律填数。

22		24
42		44

33		53
55		75

9*. 想一想：下面(1)(2)(3)三个图，哪个填在阴影处合适？为什么？

5	3	6	4	8	1	9	7	2	0
5	1	0	2	9	4	7	3	8	6
3	8	1	6	0	2	9	5	7	4
6	7	3	9			8	0	1	5
3	7	4					8	2	9
2	9	1					4	6	3
0	8	3	7			5	1	6	4
7	0	2	4	1	6	3	9	8	5
0	8	1	5	2	4	3	7	9	6
2	6	8	1	3	5	0	9	4	7

		4	2						
6	5	1	0						
7	8	0	5						
		6	2						

(1)

		3	5						
6	0	5	1						
5	2	7	8						
		4	9						

(2)

		2	4						
6	0	5	1						
5	0	7	8						
		9	2						

(3)

微信公众号：电子课本大全

自我评价



把你在学习中感受最深的事和同学交流一下。

我最喜欢做数学游戏了。





我学得最好的是数数。

我买东西算得可快了。





把你学会的知识记录下来。



微信公众号：电子课本大全



给自己贴上小红星。

评价项目	★★★	★★	★
喜欢学习数学			
能认真听讲			
愿意自己试着做			
愿意学习同伴的好方法			
能大胆地把自己的不同做法讲给同学听			
能认真、按时完成作业			
对生活中的数学问题有好奇心			
学习的心情			



你像哪个？给自己涂个红脸。

微信公众号：电子课本大全