义务教育教科书

SHU XUE

数学

一年级下册

山东省教育科学研究院　编著

青岛出版社

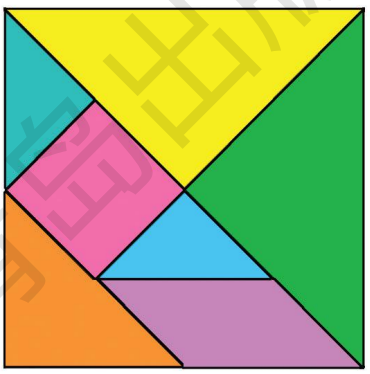

班级 _____

姓名 _____

微信公众号：电子课本大全

主　　编　展　涛
执行主编　刘品一　徐云鸿
本册主编　刘仍轩　谢志平



青岛出版社

微信公众号：电子课本大全

亲爱的小朋友：

新学期开始了，让我们一起走进数学乐园吧。



认识了100以内的数，你就能解决这个问题了。



学习了图形的知识，你也就会拼了。

小朋友，只要多动手，多动脑，多问为什么，你就会越学越聪明。

编者大朋友

微信公众号：电子课本大全

目 录

一 逛公园
——20以内的退位减法 …… 2

二 下雨了
——认识钟表 …… 18

三 丰收了
——100以内数的认识 …… 23

智慧广场…… 35

四 牧 童
——认识图形 …… 37

趣味拼摆…… 41

五 绿色行动
——100以内的加减法（一） …… 42

青岛出版社

微信公众号：电子课本大全

六 小小存钱罐
——人民币的认识 …… 57

七 大海边
——100以内的加减法（二） …… 63

智慧广场 …… 91

八 阿福的新衣
——厘米、米的认识 …… 93

我们身上的“小尺子” …… 100

九 我换牙了
——统计 …… 102

十 儿童乐园
——总复习 …… 106



青岛出版社
微信公众号：电子课本大全

一 逛公园

——20以内的退位减法

1



你还能提出什么问题？

你说我讲



$15-9=\square$（个）



微信公众号：电子课本大全

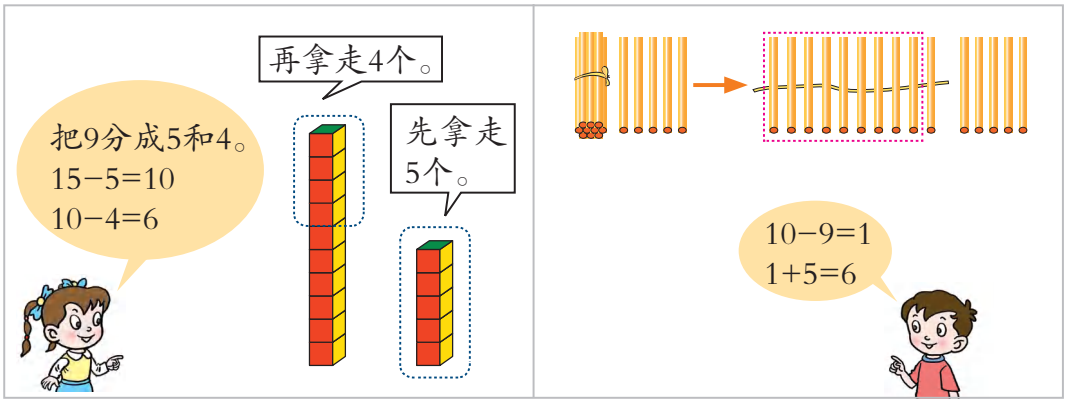



还剩几个气球？

□ ○ □ = □（个）

自主练习

1. 16−9=□　　13−9=□

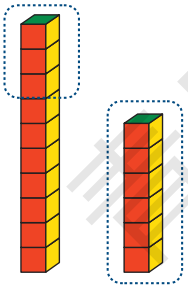

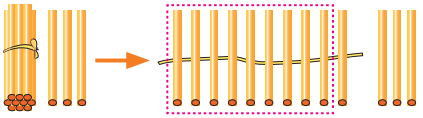

2.



□ ○ □ = □



□ ○ □ = □

3.

9+4= 13−9=	9+5= 14−9=	9+9= 18−9=	9+7= 16−9=

青岛出版社

微信公众号：电子课本大全

4.

11				15			
12	− 9 =			16	− 9 =		
13				17			
14				18			

5.



□ ○ □ = □（个）　　□ ○ □ = □（支）

6.



7.

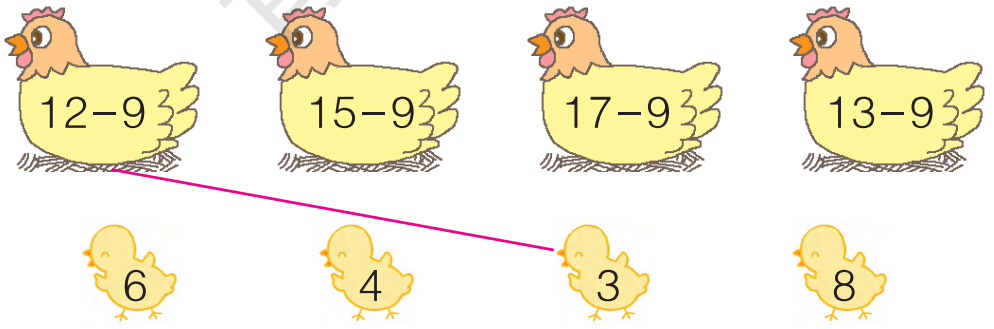

8. 在○里填上“＞”、“＜”或“＝”。

4+3 ○ 17−9	15−9 ○ 5+9	7+8 ○ 9+6
14−3 ○ 15−5	16−10 ○ 13−9	12−0 ○ 0+12

微信公众号：电子课本大全

9.



还有几只没捉住？

□ ○ □ = □（只）

10.



11.



□ ○ □ = □（面）

12.

			
原有	13个	17个	18个
吃了	9个	9个	9个
还剩	（　　）个	（　　）个	（　　）个

微信公众号：电子课本大全

2



你能提出什么问题？

你说我讲



$15-8=\square$（只）



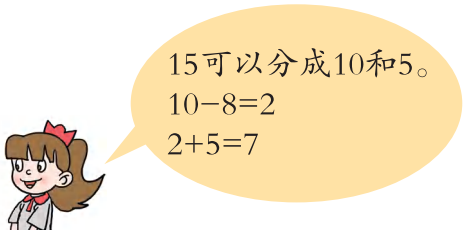

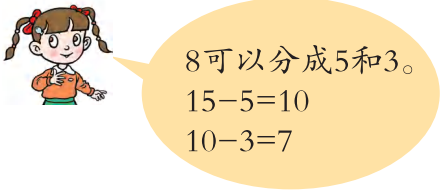

青岛出版社
微信公众号：电子课本大全



还剩几瓶  ？

□ ○ □ = □（瓶）

自主练习

1.

8 + 4 =	8 + 6 =	7 + 4 =	7 + 7 =
12 − 8 =	14 − 8 =	11 − 7 =	14 − 7 =

2.

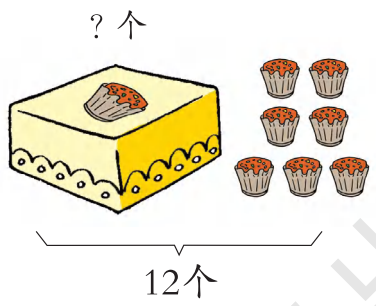

□ ○ □ = □（个）

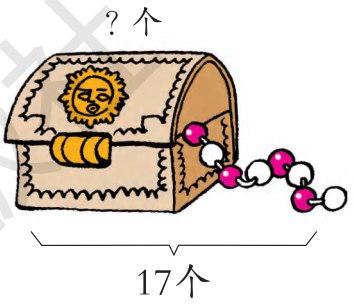

□ ○ □ = □（个）

3.

13		13	
14		14	
15	− 8 =	15	− 7 =
16		16	

你发现了什么？

4. 在○里填上“>”、“<”或“=”。

13 − 9 ○ 5	16 − 7 ○ 8	17 − 9 ○ 8
7 + 6 ○ 13	8 + 5 ○ 15	14 − 8 ○ 7

青岛出版社

微信公众号：电子课本大全

5.



□ + □ = □　　□ + □ = □

□ − □ = □　　□ − □ = □

□ − □ = □　　□ − □ = □

你发现了什么？

6. 西瓜回家。



聪明小屋

填一填。



微信公众号：电子课本大全

3



你能提出什么问题？

你说我讲

小亮还剩几条鱼？

14−6=□（条）

6+8=14
14−6=8

10−6=4
4+4=8

……

小新还剩几条鱼？

□○□=□（条）

青岛出版社

微信公众号：电子课本大全

自主练习

1. 

□ ○ □ = □（块）



□ ○ □ = □（条）

2.

12−	5 6 7 8	=		

11−	4 5 6 7	=		

3. 

□ ○ □ = □

□ ○ □ = □

□ ○ □ = □

□ ○ □ = □

4.

11−8=	13−4=	7+7=	11−2=
13−7=	8+9=	11−9=	12−3=
14−5=	15−8=	9+5=	15−6=

青岛出版社

微信公众号：电子课本大全

5.



兔妈妈拔了多少个？

□ ○ □ = □（个）

6. 你说我写。

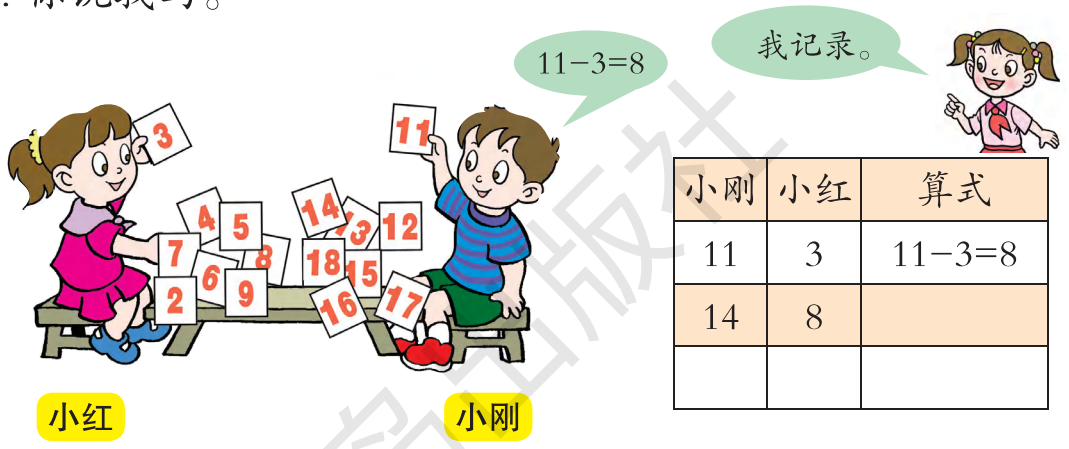

小刚	小红	算式
11	3	11−3=8
14	8	

7. 在○里填上“>”、“<”或“=”。

11−6 ○ 4　　12−9 ○ 2　　13−6 ○ 13−4

14−5 ○ 9　　15−6 ○ 11　　11−3 ○ 12−3

8. 圈出合适的两个数。

相减得数是7的：（ 6　14　5　12 ）

相减得数是9的：（ 16　13　4　8 ）

微信公众号：电子课本大全

9. 连一连。



10.



（1）浇水的和栽树的一共有多少人？

□ ○ □ = □（人）

（2）还要栽多少棵树？

□ ○ □ = □（棵）

11. 填一填。

		合计
6个	8个	（　　）个

有（　　）个篮球，

有（　　）个足球，

一共有多少个球？

□ ○ □ = □（个）

		合计
6个	（　　）个	14个

一共有（　　）个球，

其中篮球有（　　）个，

足球有多少个？

□ ○ □ = □（个）

微信公众号：电子课本大全

回顾整理



我会看！这些算式都是13减几。

13−8　13−5　13−7

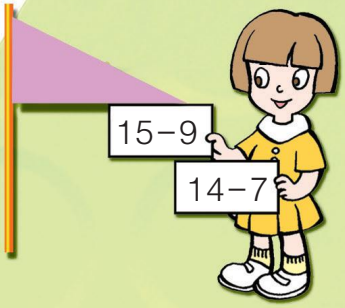

2	3	4	5
11−9	11−8	13−9	13−8
		11−7	

6	7	8	9
12−6	15−8	17−9	14−5
			16−7

我会写！这些算式的得数都是9。

14−5　18−9　12−3



我看出来了，横着看第一行都是11减几。



我发现竖着看第一列都是十几减9。



11−9	11−8		11−6		11−4	11−2
	12−8			12−5		
13−9			13−6			
		15−7				
	16−8					
18−9						





我还发现……咱们交流一下吧。

微信公众号：电子课本大全

综 合 练 习

1.



□ ○ □ = □（只）



□ ○ □ = □（朵）

2.

11−4=	14−8=	17−9=	15−7=
11−7=	14−6=	17−8=	15−8=

3.



4.



还剩多少本？

□ ○ □ = □（本）

微信公众号：电子课本大全

5. 把得数是11的部分涂上你喜欢的颜色。

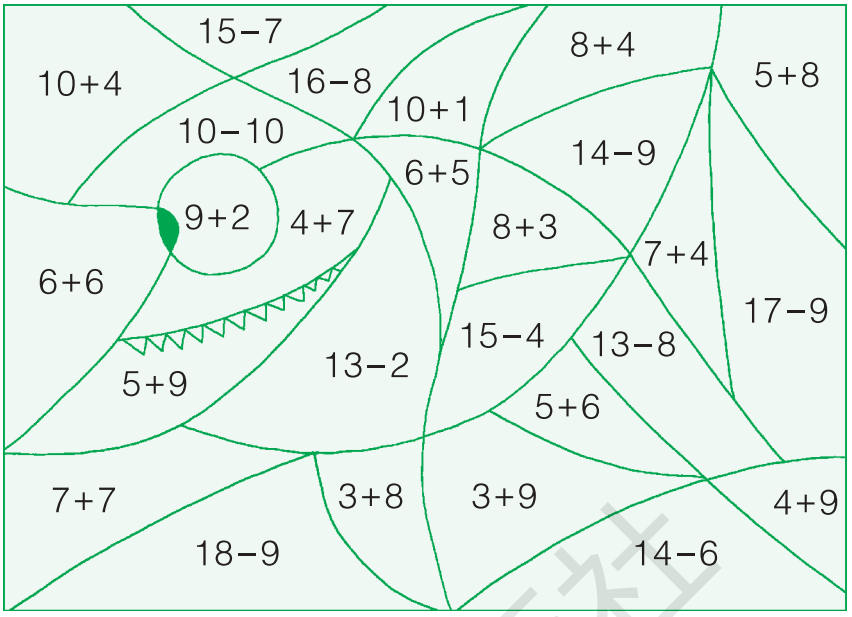

6.

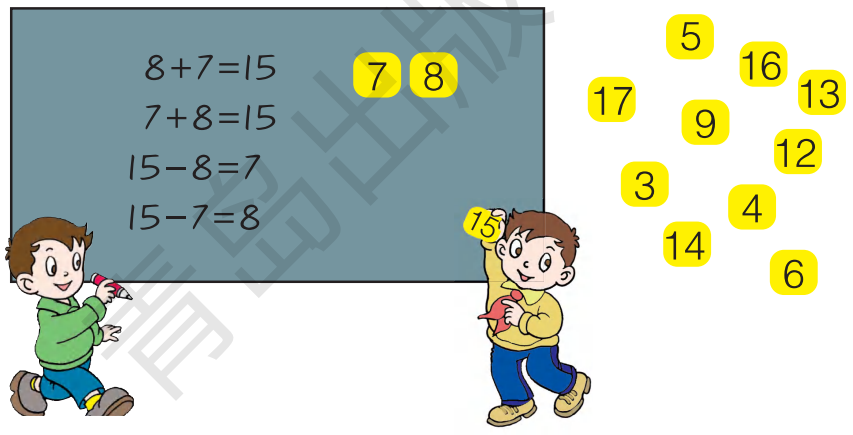

7. 看谁先跑到终点。

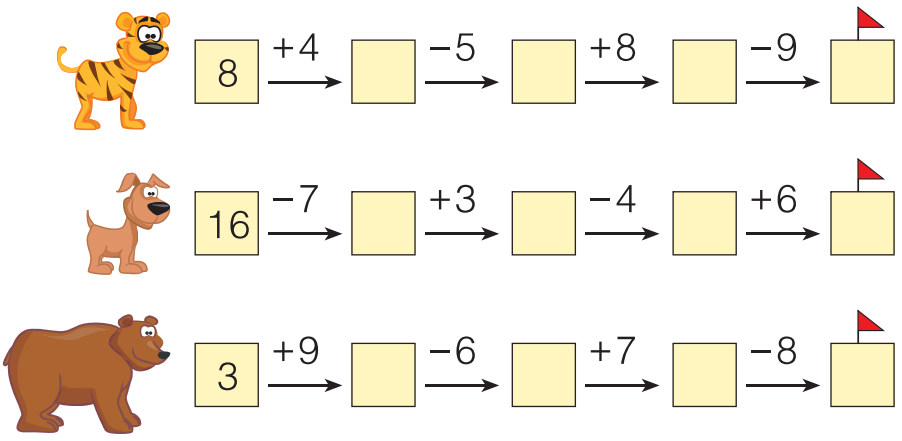

微信公众号：电子课本大全

8.

11−8=□−□　　15−9=□−□

12−4=□−□　　11−6=□−□

9. 在○里填上“>”、“<”或“=”。

11−6 ○ 12−6　　8+7 ○ 6+9　　11−5 ○ 14−5

13−4 ○ 3+5　　14−7 ○ 14−6　　13−7 ○ 15−9

10.

			
原有	13本	15支	12块
用去	6本	9支	4块
还剩	（　　）本	（　　）支	（　　）块

11.



□○□=□（只）

微信公众号：电子课本大全

我学会了吗？



（1）灰兔有几只？

□ ○ □ = □（只）

（2）你还能提出什么问题？





微信公众号：电子课本大全

二 下雨了

——认识钟表



你还能提出什么问题？

微信公众号：电子课本大全

你说我讲





小力，你是什么时间到家的？



钟面上短针是时针，长针是分针。



分针指着12，时针指着5。

是5时。



5时可以写作5:00



小青和小林分别是什么时间到家的？



小青快到5时到家的。





小林刚过____时到家的。



你知道吗？

我国古代的计时工具很多，你认识下面两种吗？



日晷（guǐ）
利用太阳照射的影子计时



铜漏壶
利用滴水计时

微信公众号：电子课本大全

自主练习

1. 连一连。






2:00　　8:00　　10:00　　12:00

2. 画一画。




7时


11时

3. 选一选。



① 2时

② 6时

③ 快到3时

④ 刚过5时

微信公众号：电子课本大全

4. 拨一拨，说一说。



5. 火眼金睛辨对错。



12:00



3:00

6. 先连一连，再讲一个数学小故事。













微信公众号：电子课本大全

7. 你发现了什么？





8. 按规律给最后一个钟面画上指针。

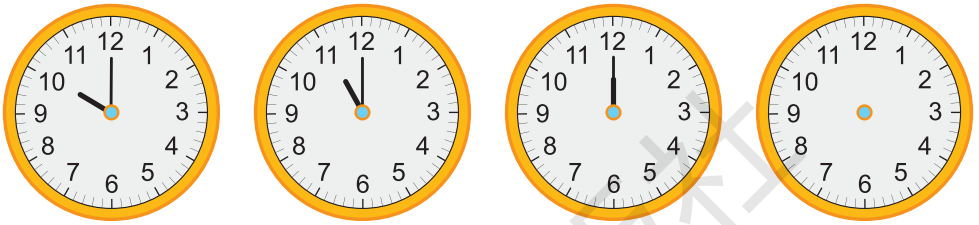

我学会了吗？

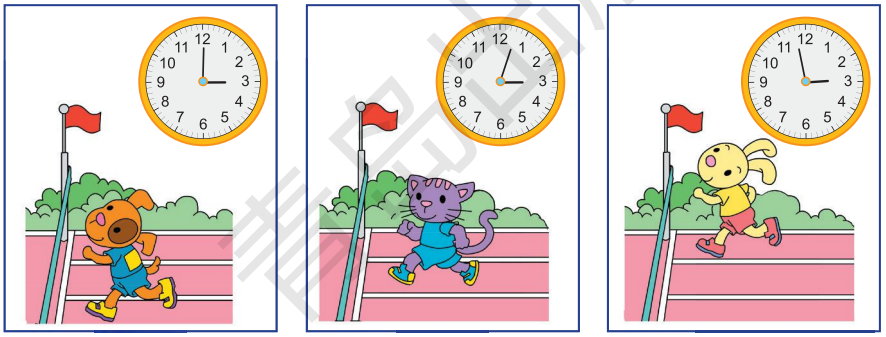

是第_____名，是第_____名。



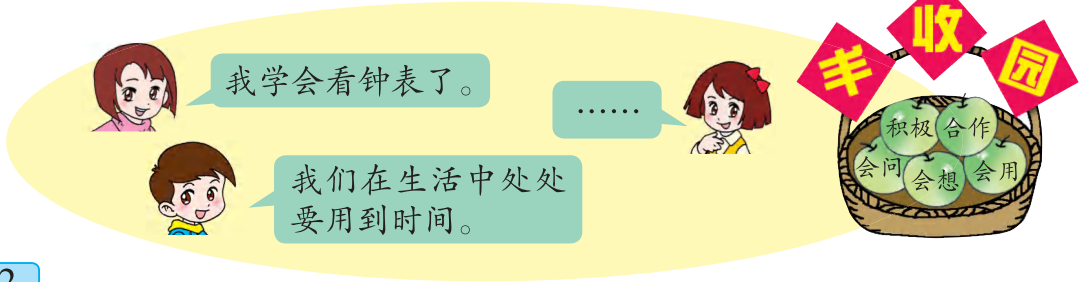

微信公众号：电子课本大全

三 丰收了

——100以内数的认识

1



你能提出什么问题？

你说我讲



玉米有多少个？



1、2、3……20，接下来怎么数呢？

21、22……27、28。



我们来摆一摆，拨一拨。



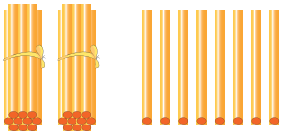

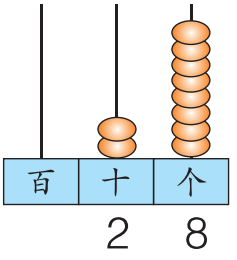

28里面有2个十和8个一。

微信公众号：电子课本大全

在计数器上从28拨到31。

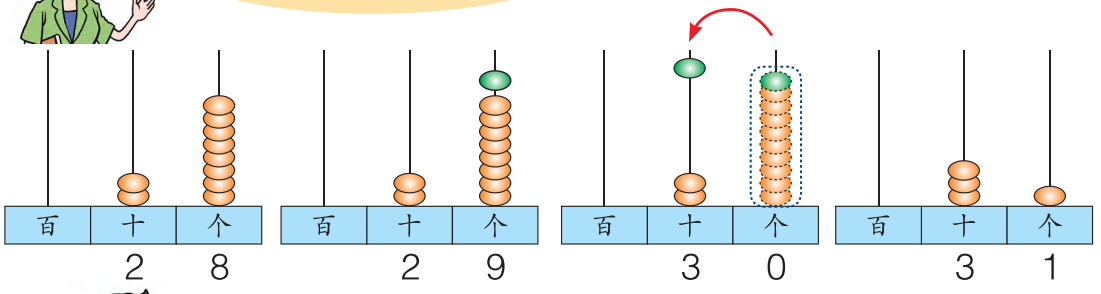

辣椒有多少个？

1、2、3……99。

如果再加1个是多少呢？

可以用学具来数一数。



90、91、92……99、100。



十、二十、三十……九十、一百。

10个十是一百。

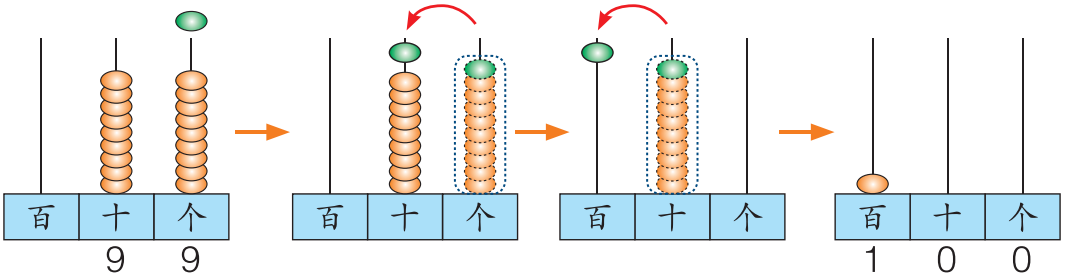

从右边起，第一位是个位，第二位是十位，第三位是百位。

微信公众号：电子课本大全

自主练习

1. 一边拨珠子一边数。

（1）从47数到63。　　（2）从70数到80。

（3）从88数到94。　　（4）从92数到100。

2. 数一数。



3.

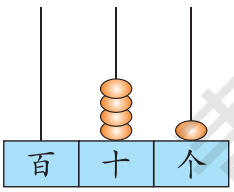

（　）个十和（　）个一合起来是□。

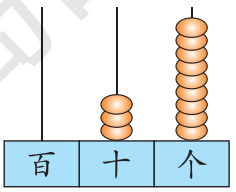

（　）个十和（　）个一合起来是□。

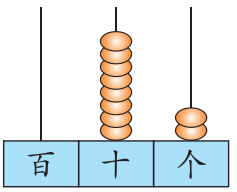

（　）个十和（　）个一合起来是□。

4. 看图写数。



（　　）把



（　　）个

微信公众号：电子课本大全

5. 写一写。

二十七	五十	六十八	八十五	七十四	九十九
27	(　　)	(　　)	(　　)	(　　)	(　　)

6. 填一填。

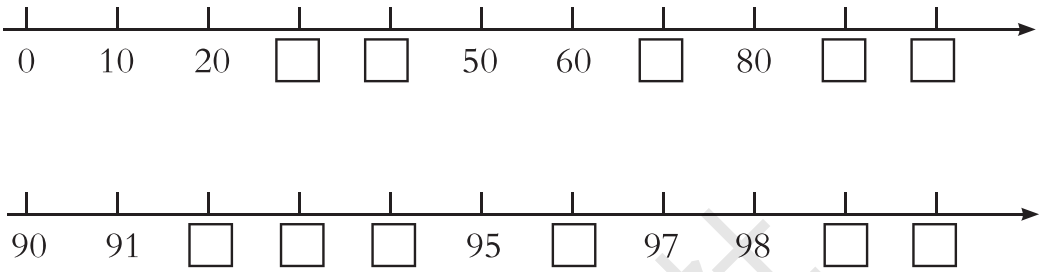

7. 看图写数。

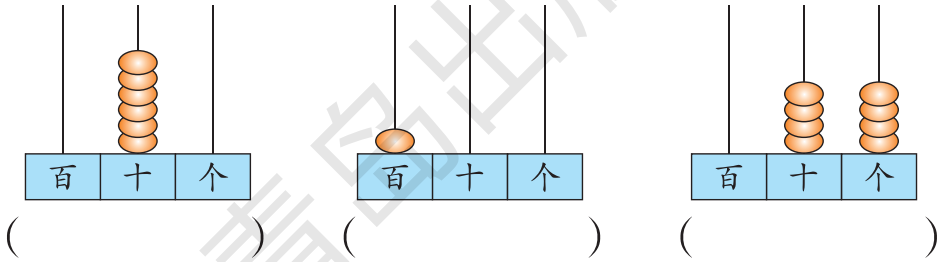

(　　)　(　　)　(　　)

你能说说各个数位上的数表示什么意思吗？

8.



（1）估一估，选一选。　30□　50□　70□

（2）10个10个地数，有（　　）个10还多（　　）个，共有（　　）个。

青岛出版社

微信公众号：电子课本大全

9. 接龙游戏。



10. 连一连。



11.

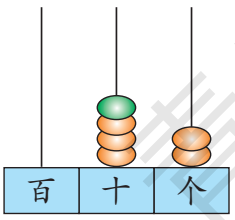

在十位上加1个珠子后，表示的数是（　　）。

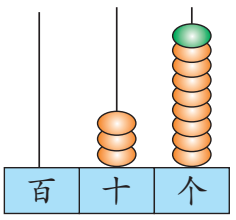

在个位上加1个珠子后，表示的数是（　　）。

你知道吗？

算筹记数

我国古代用算筹记数时，个位、百位采用纵式，十位采用横式，遇到0就空位。如76用算筹表示为：⊥T，32表示为：三||。

试试看，你能用算筹表示出58吗？

微信公众号：电子课本大全

2



你能提出什么问题？

你说我讲

小玉和小玲谁摘的多？

只要比一比42和27谁大就可以了。

42在27的后面，42大。

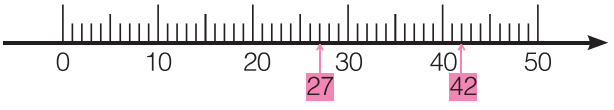

我先比较十位上的数。

42
27

□ > □

40比20大，所以42比27大。

小玉和小强谁摘的多？

微信公众号：电子课本大全



十位上的数相同，都是4，再看个位……

42
48

8比2大，所以48比42大。

□○□



比较三人摘石榴的个数，你发现了什么？



小玉摘的比小玲多得多。

小玉摘的比小强少一些。





小强摘的最多。

自主练习

1. 填一填，比一比。

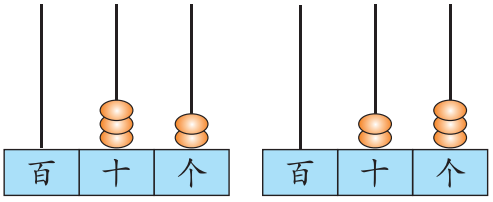

（　）○（　）

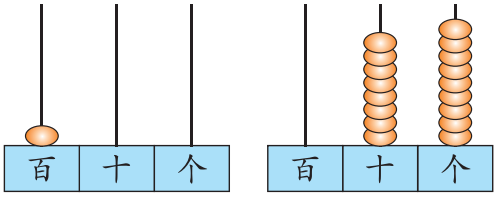

（　）○（　）

2. 圈出每组中较大的数。

27　31　　54　45　　76　79

微信公众号：电子课本大全

3.

（1）十位上是3，个位上是9的数是（　　）。

（2）个位上是5，十位上是（　　）的数是（　　）。

（3）个位上是（　　），十位上是（　　）的数是（　　）。

4. 按规律填数。

50		52				40	45	

93		73	63			33		

5. 排一排。

64　35　42　70　67　29

（　　）<（　　）<（　　）<（　　）<（　　）<（　　）

6.



小涛可能拍了多少下？画“√”。小珍可能拍了多少下？画“△”。

9	37	45	82

青岛出版社
微信公众号：电子课本大全

7. 想一想，填一填，说一说。

1		3		5	6		8		
			14			17			
		23					28		
	32							39	
41									50
51									60
	62							69	
		73					78		
			84			87			
				95	96				



8. 小游戏。



聪明小屋

下面的横线上该填什么数？

（1）0、25、50、_____、100。

（2）100、80、60、_____、20。

微信公众号：电子课本大全

3



你能提出什么问题？

你说我讲



爸爸和妈妈一共摘了多少个？

40+30=□（个）



我数一数，50、60、70。

4个十加3个十得7个十，是70。





妈妈和小阳一共摘了多少个？

□○□=□（个）



你会计算56−50和23−3吗？

微信公众号：电子课本大全

自主练习

1.

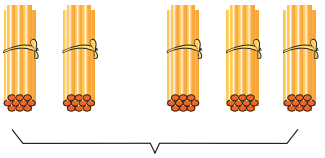

□○□=□

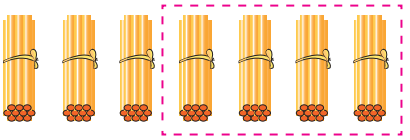

□○□=□

2.

10+50=	90−70=	60+30=	80−20=
90−40=	50+50=	30+70=	100−90=

3.



□○□=□

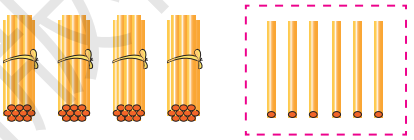

□○□=□

4.

30+7=	48−40=	6+50=	70+9=
99−9=	3+40=	69−60=	45−5=

5.

			
原有	50个	37个	28块
卖出	30个	30个	8块
还剩	（　　）个	（　　）个	（　　）块

青岛出版社

微信公众号：电子课本大全

我学会了吗？



（1）数一数，有多少只？

（2）天上的多还是冰上的多？

（3）一共有多少只？

（4）你还能提出什么问题？



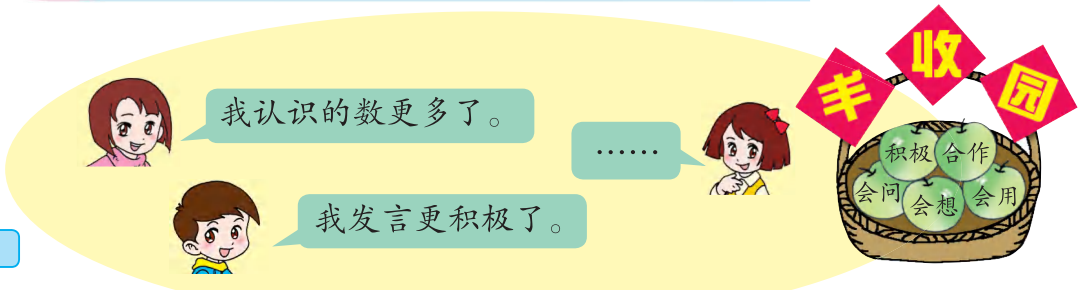

微信公众号：电子课本大全

智慧广场





你说我讲



一边数一边写：9、19、29……99。一共写出了……

我用百数表数一数，一共有……



1	2	3	4	5	6	7	8	9	10
11	12	13	14	15	16	17	18	19	20
21	22	23	24	25	26	27	28	29	30
31	32	33	34	35	36	37	38	39	40
41	42	43	44	45	46	47	48	49	50
51	52	53	54	55	56	57	58	59	60
61	62	63	64	65	66	67	68	69	70
71	72	73	74	75	76	77	78	79	80
81	82	83	84	85	86	87	88	89	90
91	92	93	94	95	96	97	98	99	100



先按顺序写出个位是“9”的数，再写出十位是“9”的数，然后数一数一共写了多少个“9”。



个位是“9”的数：
9、19、29、39、49、59、69、79、89、99。
个位上一共有10个9。

十位是“9”的数：
90、91、92、93、94、95、96、97、98、99。
十位上一共有10个9。

从1写到100，一共写出了____个“9”。

微信公众号：电子课本大全

自主练习

1. 从 1 写到 100，一共写了多少个“8”？多少个“7”？多少个“6”？



2. 你能写出和是9的所有算式吗？



3. 把12个桃子放在两个盘子里，有几种放法？



4. 20以内的数中，有多少个单数？多少个双数？100以内呢？



5.



可以怎样买？

微信公众号：电子课本大全

四　牧　童

——认识图形





你还能提出什么问题？

微信公众号：电子课本大全

你说我讲

是用什么图形拼成的？

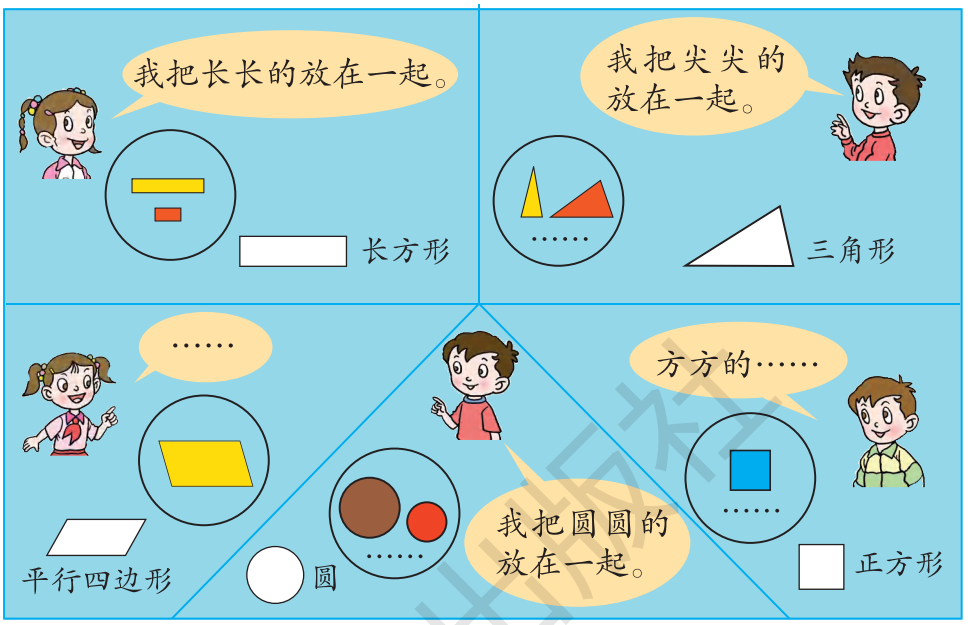

怎样从 上得到这些图形呢？



样书

微信公众号：电子课本大全

自主练习

1. 连一连。

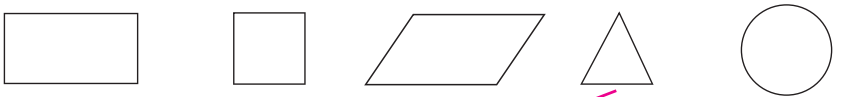

平行四边形　圆　三角形　长方形　正方形

2. 你知道这些物体的面分别是什么形状吗？在你的周围找一找。



3. 在点子图上画出学过的图形。

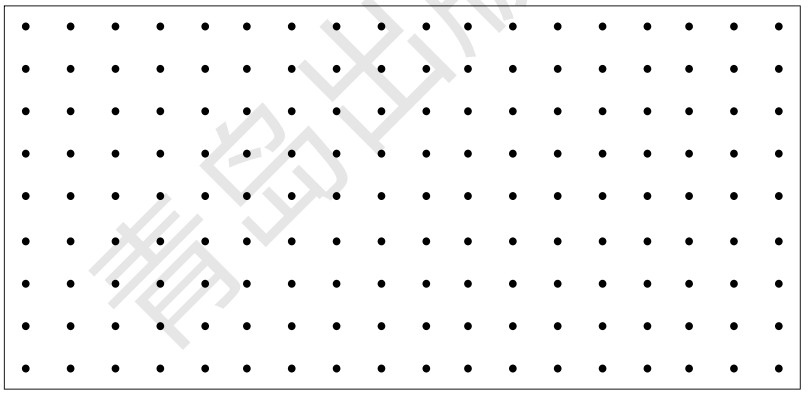

4. 哪组小棒能围成长方形？画“√”。



（　）　（　）　（　）

5. 接下去怎样摆？（见117页）



微信公众号：电子课本大全

6. 用两个同样的，你可以拼成哪几种图形？（见117页）

聪明小屋

想一想，画一画。

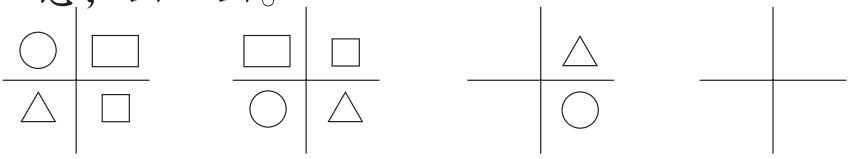

我学会了吗？

给长方形、正方形、平行四边形、三角形、圆涂上不同的颜色。



长方形	（　　）个
正方形	（　　）个
平行四边形	（　　）个
三角形	（　　）个
圆	（　　）个





微信公众号：电子课本大全

趣味拼摆

看一看







想一想



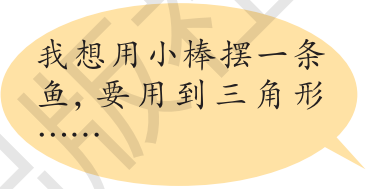



摆一摆



议一议









青岛出版社

微信公众号：电子课本大全

五 绿色行动

——100以内的加减法（一）

1



你能提出什么问题？

你说我讲



亮亮和东东一共浇了多少棵花？

26+3=□（棵）



27、28、29。

我来摆一摆，拨一拨。



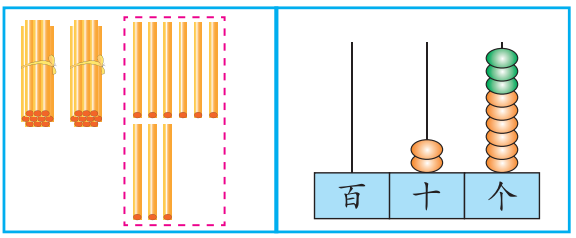

6+3=9
20+9=29



微信公众号：电子课本大全



亮亮和芳芳一共浇了多少棵花？

$26+30=\square$（棵）



36、46、56。

我来摆一摆，拔一拔。



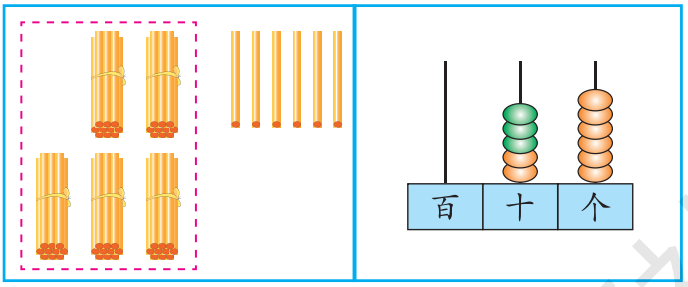

20+30=50
50+6=56



想一想：计算26+3和26+30时，有什么不同？

自主练习

1. 照样子拔一拔，算一算。

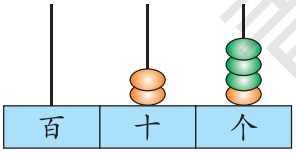

$21+3=\square$

$32+4=$	$26+2=$	$72+7=$
$44+4=$	$42+5=$	$51+3=$

2.



大象和小象一共搬了多少根木头？$\square\bigcirc\square=\square$（根）

微信公众号：电子课本大全

3. 照样子摆一摆，算一算。

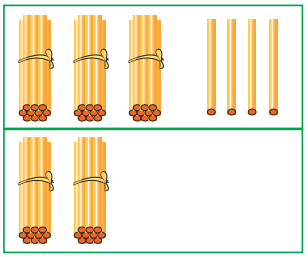

34+20=□

63+10=	46+40=	32+50=
28+30=	35+20=	50+45=

4.



□ ○ □ = □（个）

5.

33+4=	42+3=	21+6=	72+2=
33+40=	42+30=	21+60=	72+20=

6. 找妈妈。



微信公众号：电子课本大全

7. 在○里填上“>”、“<”或“=”。

24+5 ○ 74	43+4 ○ 47	73+6 ○ 79
35+30 ○ 38	4+55 ○ 95	3+22 ○ 52

8.

5+30=	72+6=	45+3=	87+10=
35+2=	66+3=	4+54=	40+50=
53+40=	51+20=	5+21=	60+11=

9.



（1）一共有多少棵树？ □ ○ □ = □（棵）

（2）一共有多少只天鹅？ □ ○ □ = □（只）

（3）你还能提出什么问题？

聪明小屋

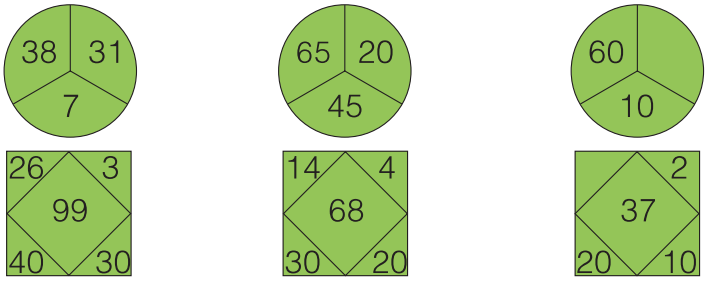

微信公众号：电子课本大全

2



你能提出什么问题？

你说我讲



一班一共要挂多少个牌子？



把已经挂的27个和没挂的6个合起来。

我会列式……



$27+6=\square$（个）

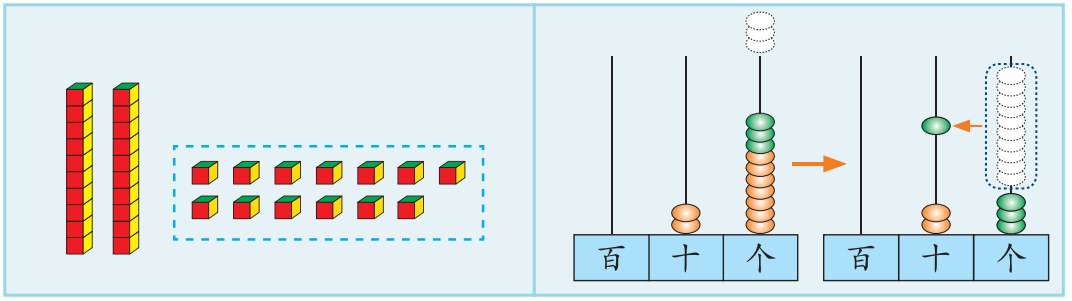



7+6=13
20+13=33

27+3=30
30+3=33



微信公众号：电子课本大全



二班一共要挂多少个牌子？

□○□=□（个）

自主练习

1.

59+4=	3+68=	43+7=	6+48=
38+6=	46+5=	7+47=	85+8=
8+53=	76+9=	35+5=	9+52=

2.



□○□=□（个）

3. 登山。



青岛出版社

微信公众号：电子课本大全

4.





小雨	小龙	算式
3	39	39+3=42
		3+39=42
5	26	

5. 在○里填上“>”、“<”或“=”。

36+5 ○ 40　48+4 ○ 52　5+45 ○ 50　4+49 ○ 60

6.



7. 得数大于45的是可回收物筒，请涂 ；得数小于45的是不可回收物筒，请涂 。

7+48	3+27	25+5	30+46	45+8
6+27	38+5	5+56	38+6	71+4

8.



你能提出什么问题？

微信公众号：电子课本大全

3



班级	一班	二班	三班
	45	20	28
	10	15	6

你还能提出什么问题？

你说我讲


二班比一班多捡了多少个？


我来摆一摆。

一班捡的：

二班捡的：

□ ○ □ = □（个）


你知道一班比二班少捡多少个吗？


一班比二班少捡多少个，也就是……


三班捡的 比 少多少个？

□ ○ □ = □（个）

微信公众号：电子课本大全



二班比一班少捡了多少个？

$45-20=\square$（个）

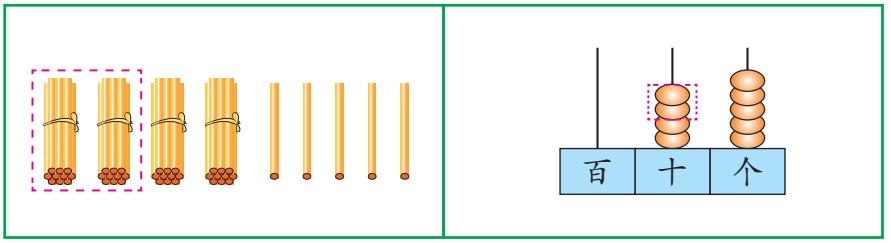



40−20=20
20+5=25

自主练习

1. 摆一摆，算一算。

（1）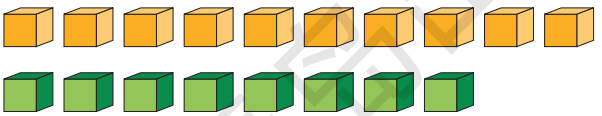

第一行比第二行多几个？　□○□=□（个）

（2）

第一行比第二行少几朵？　□○□=□（朵）

2.

69−7=	26−2=	77−5=	58−7=
38−6=	46−5=	35−3=	66−5=

青岛出版社

微信公众号：电子课本大全

3.



谁捧得多？多几块？

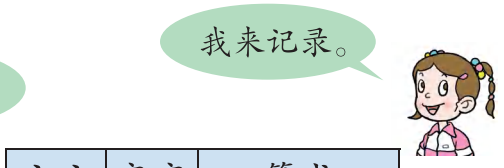

方方	亮亮	算式
11	9	11−9=2

4.

49−30=	57−20=	45−40=	76−50=
59−20=	85−50=	68−30=	63−60=

5.



男生有多少人？ □ ○ □ = □（人）

6.

56−4=	37−3=	65−4=	98−8=
56−40=	37−30=	65−40=	98−80=

7. 讲数学故事。



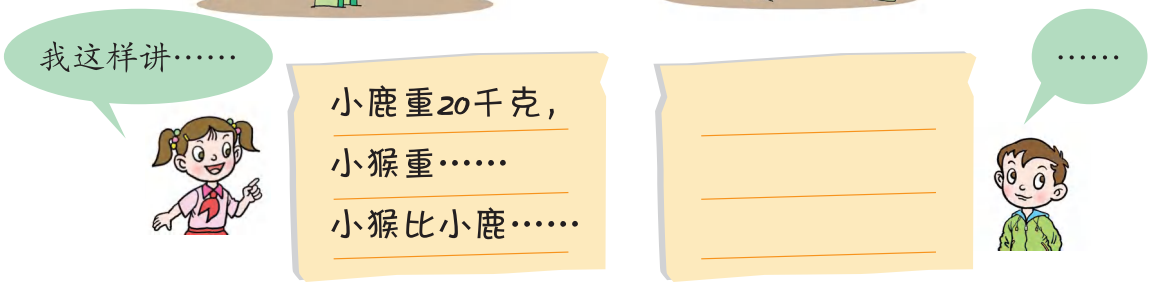

你还能讲一个身边的故事吗？

微信公众号：电子课本大全

4



你能提出什么问题？

你说我讲



二年级比一年级多展出多少幅画？

$30-9=\square$（幅）

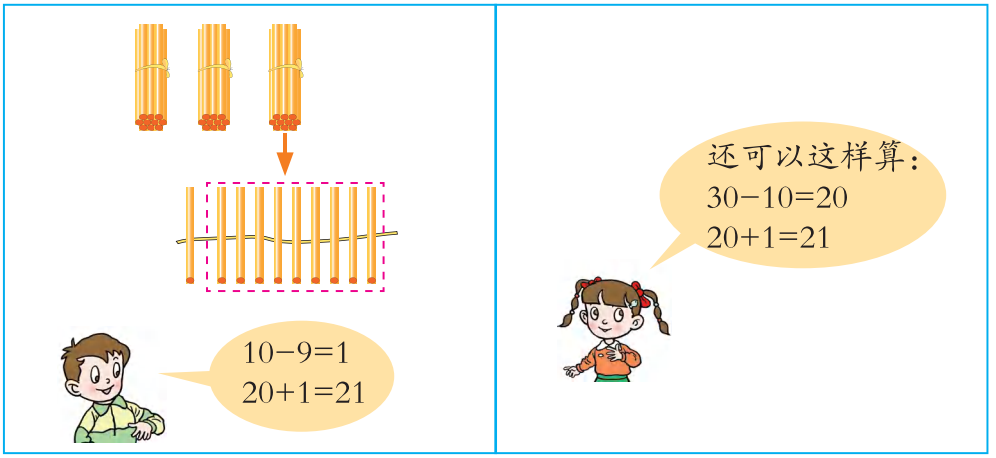

微信公众号：电子课本大全



二年级比三年级少来了多少人？

24−8=□（人）

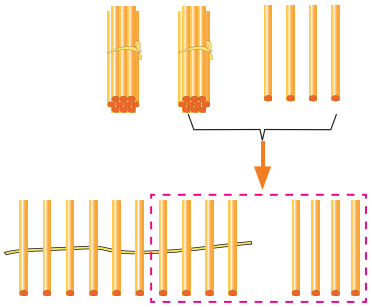



自主练习

1.

30−7=	20−3=	60−5=	40−7=
60−6=	50−7=	45−5=	58−8=

2.



□○□=□（个）

3.

44−7=	36−8=	27−9=	58−9=
62−6=	43−4=	52−3=	71−7=

青岛出版社

微信公众号：电子课本大全

4.



红红比妈妈小多少岁？ □ ○ □ = □（岁）

5. 填一填。

商品				
原价	20元	32元	56元	18元
现价	9元	20元	40元	8元
降价	（　　）元	（　　）元	（　　）元	（　　）元

6. 哪些叶子生病了？

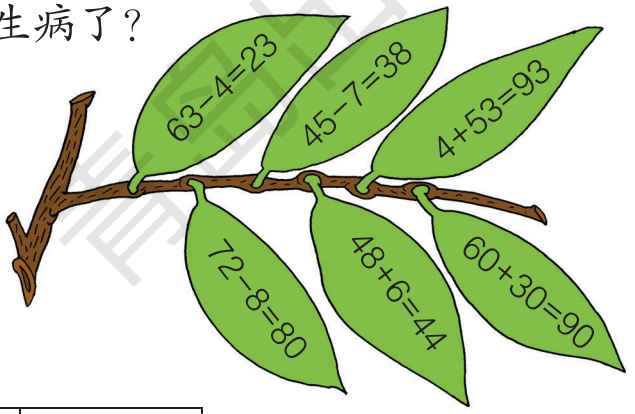

7.

	
37个	8个

（1）和一共多少个？ □ ○ □ = □（个）

（2）比多多少个？ □ ○ □ = □（个）

微信公众号：电子课本大全

8. 踩气球。



（1）小明的气球碎了多少个？

□○□=□（个）

（2）你还能提出什么问题？

9.

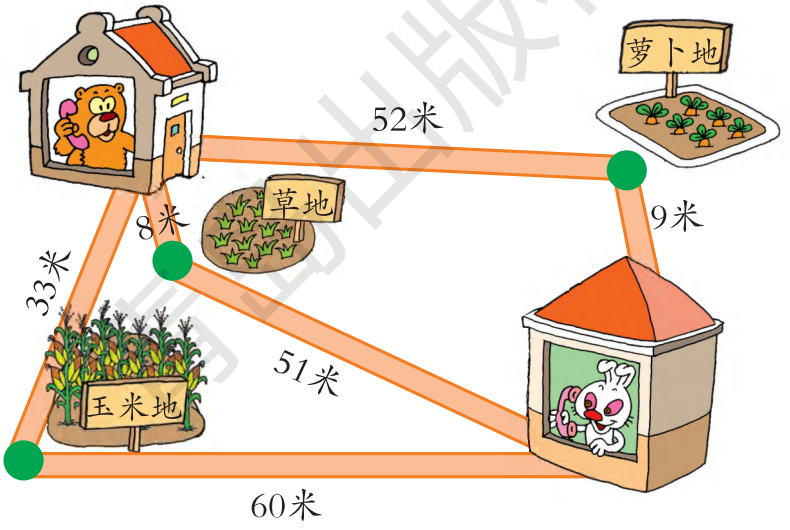

（1）经过玉米地去家一共要走多少米？

□○□=□（米）

（2）家到萝卜地比家到萝卜地远多少米？

□○□=□（米）

（3）你还能解决哪些问题？

青岛出版社

微信公众号：电子课本大全

我学会了吗？



（1）一共有多少只？

□○□=□（只）

（2）河里的比岸上的多多少只？

□○□=□（只）

（3）你还能解决哪些问题？





我会计算100以内的加减法了。



我们要爱护自己的家园。

……





微信公众号：电子课本大全

六 小小存钱罐

——人民币的认识

1



你还能提出什么问题？

你说我讲



你认识1元、1角和1分吗？

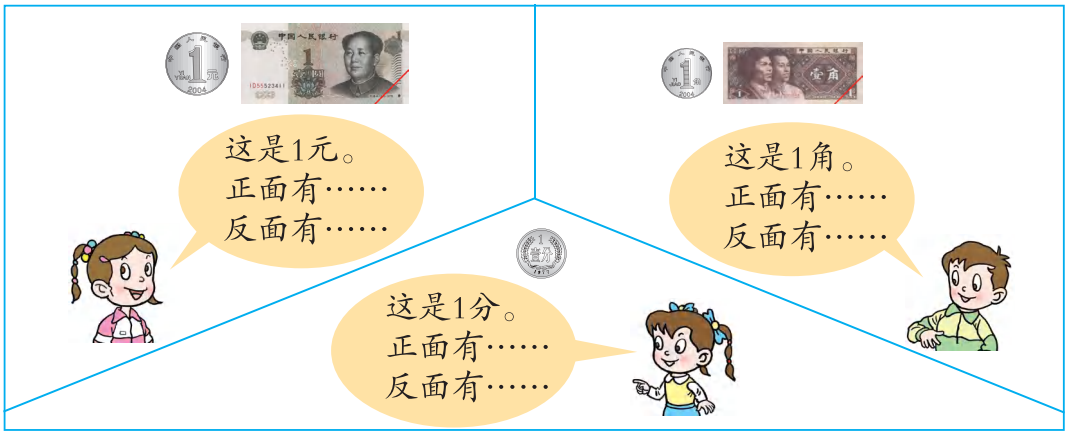

微信公众号：电子课本大全



1角=10分

1元=10角



你认识下面的人民币吗？



自主练习

1. 连一连。



10元　50元　5元　20元　5角

2.





拿出10元，可以怎样拿？

拿出15元，可以怎样拿呢？



青岛出版社

微信公众号：电子课本大全

3. 填一填。



1张可以换_____张。

1张可以换_____张和_____张。

你还能怎样换？

4.

7元＝（　　）角	50角＝（　　）元
3角＝（　　）分	2元＝（　　）角

5.





（　　）元（　　）角





（　　）元





（　　）元（　　）角





（　　）元

6.



1元



10元



2元



5元



10元钱能买5块肥皂。

10元钱还能买什么？



微信公众号：电子课本大全

2

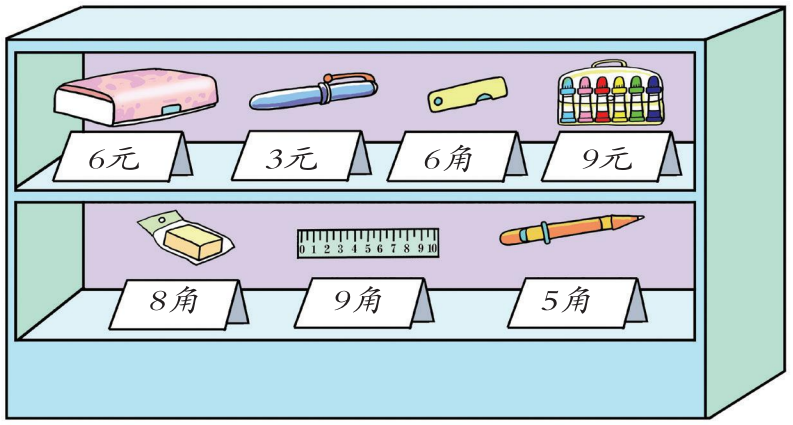



你能提出什么问题？

你说我讲



拿20元买一个  和一袋  够吗？

 6元  9元

6+9=15（元）





20元比15元多，够了。



用1元钱买一块 ，还剩多少钱？

1元=10角





10角−8角=2角

微信公众号：电子课本大全

自主练习

1.



10元



5元



3元



2元



我有30元钱，买3包

够吗？

我有10元钱，买一个

和一袋

够不够？



2.

商　品	付出的钱	找回的钱
 8元		
 13元		
 6角		

3. 选一选，圈出要付的钱数。



9元5角





3元6角



青岛出版社

微信公众号：电子课本大全

4. 拿20元可以买哪些商品？


24元


10元


8元


2元

你还能提出什么问题？

课外实践



我学会了吗？

调查生活中常用物品的价格，填在下表中。

物品	铅笔						
价格	6角						

（1）10元钱可以买什么物品？

（2）20元钱可以买哪些物品？

（3）你想买什么物品？需要多少钱？



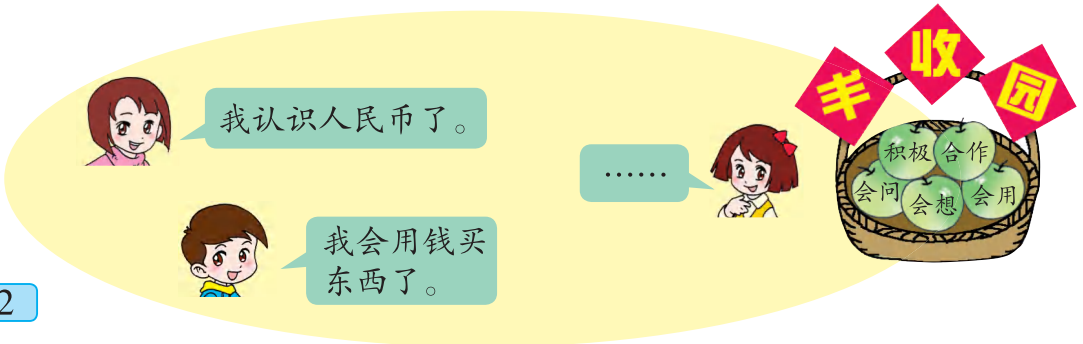

微信公众号：电子课本大全

七 大海边

——100以内的加减法（二）

1



你还能提出什么问题？

微信公众号：电子课本大全

你说我讲



一共捉了多少只？

$26+12=\square$（只）



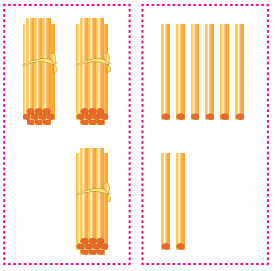

20+10=30
6+2=8
30+8=38



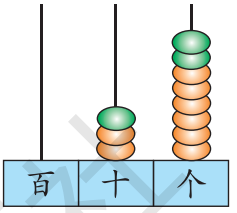

26+10=36
36+2=38



可以用竖式计算，试试看。

$$\begin{array}{r} 26 \\ +\ 12 \\ \hline \square\square \end{array}$$



我这样算。

$$\begin{array}{r} 26 \\ +\ 12 \\ \hline 3\square \end{array}$$



我这样算。

$$\begin{array}{r} 26 \\ +\ 12 \\ \hline \square 8 \end{array}$$

用竖式计算，相同数位要对齐。

微信公众号：电子课本大全



一共捉了多少只？

11+23=□（只）

$$\begin{array}{r} 1\ 1 \\ +\square\square \\ \hline \square\square \end{array}$$

自主练习

1.

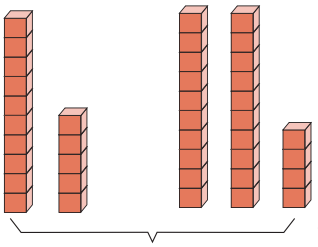

□○□=□

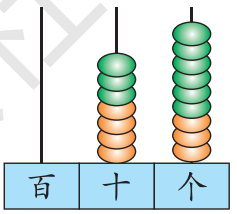

□○□=□

2.

$$\begin{array}{r} 5\ 2 \\ +2\ 4 \\ \hline \end{array} \qquad \begin{array}{r} 3\ 5 \\ +3\ 3 \\ \hline \end{array} \qquad \begin{array}{r} 6\ 5 \\ +2\ 1 \\ \hline \end{array} \qquad \begin{array}{r} 1\ 7 \\ +7\ 2 \\ \hline \end{array}$$

3. 连一连。



青岛出版社

微信公众号：电子课本大全

4. 填一填。

加数	26	15	43	38	43
加数	13	73	15	21	56
和					

5.



一共掰了多少个玉米？

□ ○ □ = □（个）

6. 用竖式计算。

27+11	23+42	15+72	81+18
56+33	34+12	41+35	54+43

7.



《海绵宝宝》一共有多少集？

□ ○ □ = □（集）

青岛出版社
微信公众号：电子课本大全

8. 你能讲一个数学故事吗？



9.



（1）买一双 和一个 ，一共需要多少钱？

□○□=□（元）

（2）买一顶 和一个 ，一共需要多少钱？

□○□=□（元）

（3）你还能提出什么问题？

聪明小屋

各代表一个数，它们可能是几？



+

9 9

= （ ） = （ ）

微信公众号：电子课本大全

2



你还能提出什么问题？

微信公众号：电子课本大全

你说我讲



摆 比摆 多用多少个贝壳？

$47-32=\square$（个）



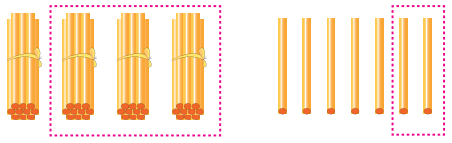

40−30=10
7−2=5
10+5=15



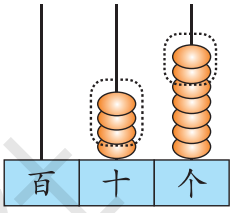

$$\begin{array}{r} 47 \\ -32 \\ \hline 15 \end{array}$$



摆 比摆 少用多少个贝壳？

$\square-\square=\square$（个）

我用竖式计算。



$$\begin{array}{r} \square\ \square \\ -\ \square\ \square \\ \hline \square\ \square \end{array}$$



摆 比摆 多用多少个贝壳？

$\square\bigcirc\square=\square$（个）

青岛出版社

微信公众号：电子课本大全

自主练习

1.

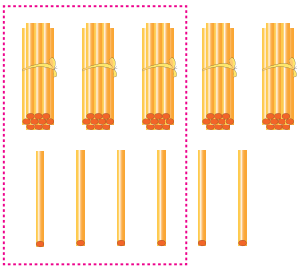

□ ○ □ = □

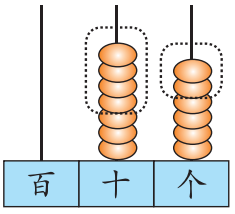

□ ○ □ = □

2. 用竖式计算。

45 − 22	57 − 34	41 + 26	84 − 61
38 − 16	78 − 45	89 − 35	67 − 50

3. 连一连。



4. 讲数学故事。



□ ○ □ = □（个）

微信公众号：电子课本大全

5. 一共有多少只？



□ ○ □ = □（只）

你还能提出什么问题？

6. 填一填。

2 ★	3	4	8
+ 5 2	− 1 4	+ 3	− 5
7 8	2 2	6 9	4 5

★ =_____　　=_____　　=_____

=_____　　=_____　　=_____

聪明小屋

你能一笔画出下面的每个图形吗？画画看。



青岛出版社

微信公众号：电子课本大全

3





你还能提出什么问题？

你说我讲



左边鱼缸里有多少条鱼？　15+28=□（条）

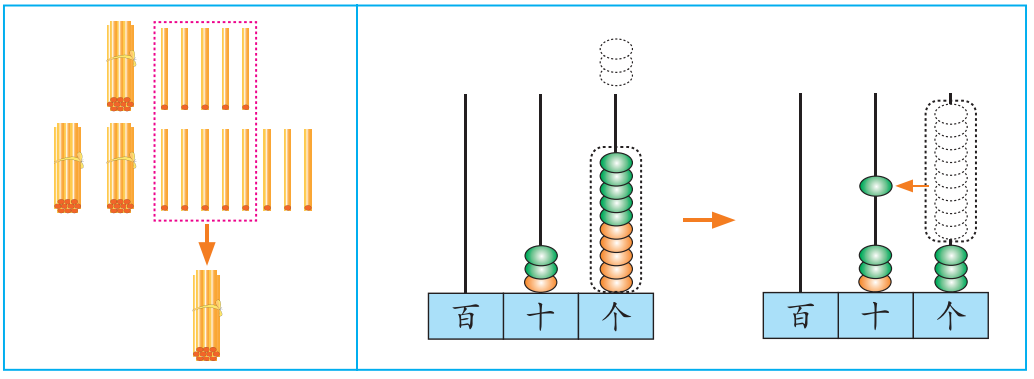

微信公众号：电子课本大全



我列竖式计算。

5加8等于13，怎样写呢？



$$\begin{array}{r} 15 \\ +28 \\ \hline 43 \end{array}$$



右边鱼缸里有多少条鱼？

□ + □ = □（条）

$$\begin{array}{r} \square\square \\ +\ \square\square \\ \hline \square\square \end{array}$$

从个位加起，个位满10向十位进1。

自主练习

1.

$$\begin{array}{r} 46 \\ +29 \\ \hline \square\square \end{array} \qquad \begin{array}{r} 35 \\ +45 \\ \hline \square\square \end{array} \qquad \begin{array}{r} 57 \\ +18 \\ \hline \square\square \end{array} \qquad \begin{array}{r} 36 \\ +27 \\ \hline \square\square \end{array}$$

2.



□ ○ □ = □（张）

青岛出版社

微信公众号：电子课本大全

3. 用竖式计算。

45+28	27+19	25+66	9+73
36+24	23+57	46+38	85+14

4. 入队仪式。



一共有多少人加入少先队？

□○□=□（人）

5. 火眼金睛辨对错。



$$\begin{array}{r} 56 \\ +\ 27 \\ \hline 73 \end{array} \qquad \begin{array}{r} 38 \\ +\ 22 \\ \hline 50 \end{array} \qquad \begin{array}{r} 24 \\ +\ 65 \\ \hline 99 \end{array}$$



6. 跳绳比赛。



（1）小军一共跳了多少下？

（2）小丽一共跳了多少下？

微信公众号：电子课本大全

7.

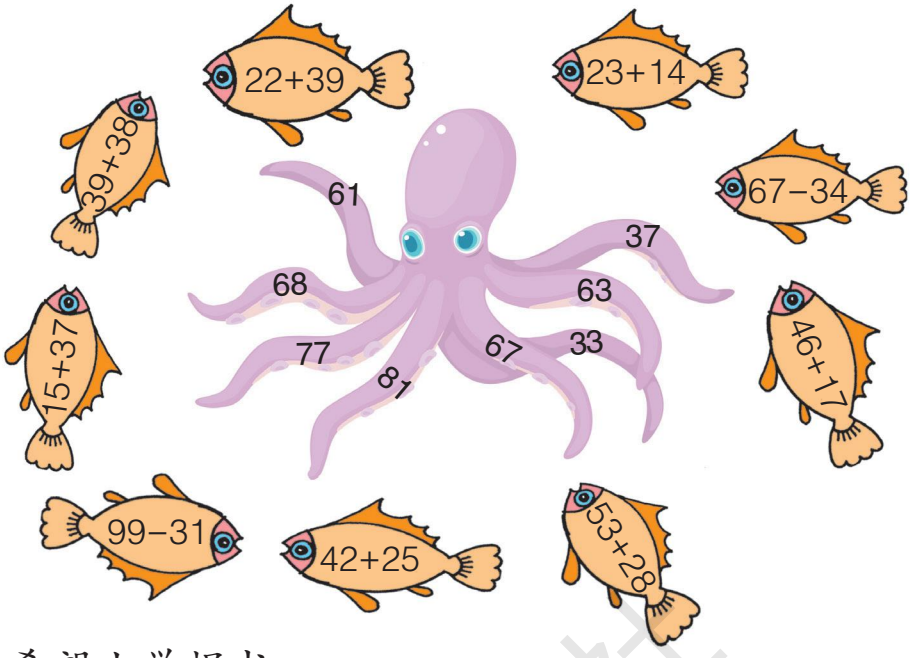

8. 给希望小学捐书。

	一班	二班	三班
	39本	27本	15本
	13本	26本	48本

你能提出什么问题？

9.



~~¥32元~~
¥21元



~~¥19元~~
¥12元

（1）减价前，买两本书一共多少钱？

□ ○ □ = □（元）

（2）减价后，买两本书一共多少钱？

□ ○ □ = □（元）

（3）你还能提出什么问题？

青岛出版社

微信公众号：电子课本大全

4



你还能提出什么问题？

你说我讲



$42-26=\square$（种）

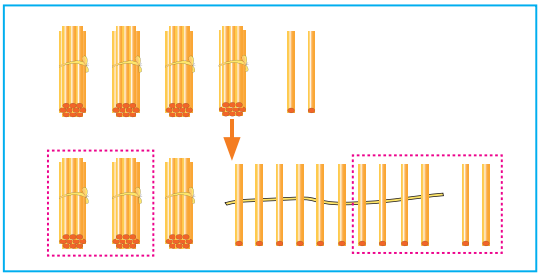

微信公众号：电子课本大全

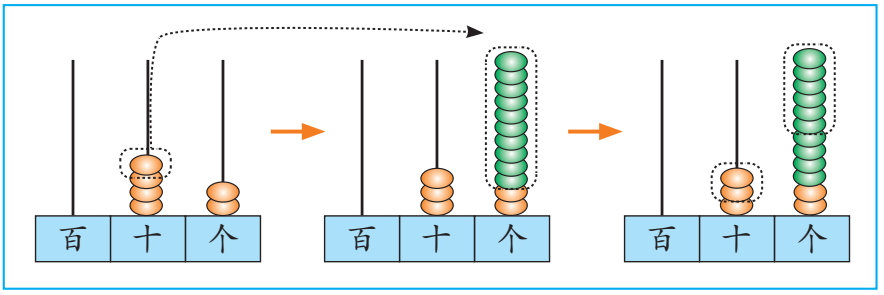



个位上2减6不够减，怎么办呢？

$$\begin{array}{r} {\scriptstyle 3}\ {\scriptstyle 12} \\ 4\ 2 \\ -\ 2\ 6 \\ \hline 1\ 6 \end{array} \quad \rightarrow \quad \begin{array}{r} \dot{4}\ 2 \\ -\ 2\ 6 \\ \hline 1\ 6 \end{array}$$



虾类标本比贝类标本少多少种？

□ − □ = □（种）

$$\begin{array}{r} \square\ \square \\ -\ \square\ \square \\ \hline \square\ \square \end{array}$$

个位不够减，从十位退1，在个位上加10，再减。

自主练习

1.

$$\begin{array}{r} 4\ 6 \\ -2\ 8 \\ \hline \square\square \end{array} \qquad \begin{array}{r} 5\ 5 \\ -3\ 7 \\ \hline \square\square \end{array} \qquad \begin{array}{r} 7\ 3 \\ -4\ 6 \\ \hline \square\square \end{array} \qquad \begin{array}{r} 8\ 4 \\ -5\ 5 \\ \hline \square\square \end{array}$$

2.



第二十八届奥运会中国获得32枚金牌。

第二十九届奥运会中国获得51枚金牌。



第二十九届比第二十八届多获多少枚金牌？

□ ○ □ = □（枚）

微信公众号：电子课本大全

3. 火眼金睛辨对错。



$$\begin{array}{r} 48 \\ -29 \\ \hline 29 \end{array}$$

$$\begin{array}{r} 65 \\ -57 \\ \hline 12 \end{array}$$

$$\begin{array}{r} 90 \\ -38 \\ \hline 68 \end{array}$$

4. 用竖式计算。

42−19	50−38	64−46
55−26	91−62	70−35
34+17	29+8	62+26

5. 下面哪些算式的得数比40大？在□里画“√”。

28+20 □　　42−6 □　　80−42 □

18+20 □　　46−2 □　　80−32 □

6. 连一连。

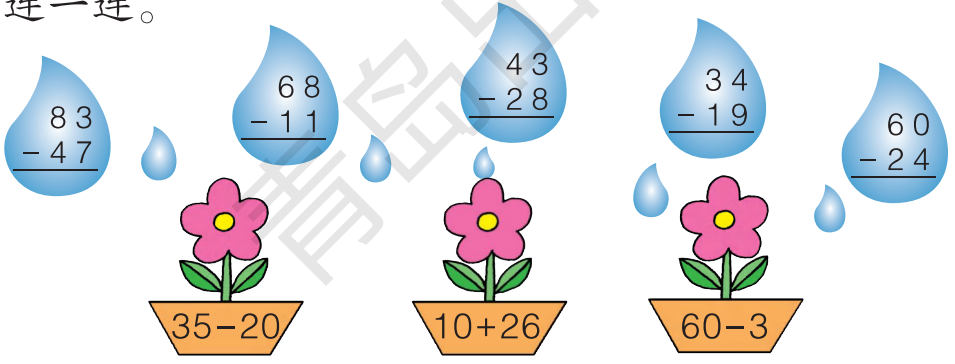

7. 比寿命。

				
70年	39年	22年	47年	18年

（1）大象的寿命比骆驼长多少年？

□ ○ □ = □（年）

（2）你还能提出什么问题？

微信公众号：电子课本大全

8.



（1）一共折了多少只纸鹤？

□ ○ □ = □（只）

（2）送给大班的小星星比小班多多少颗？

□ ○ □ = □（颗）

9.



（1）一辆大巴车比一辆中巴车多载多少人？

□ ○ □ = □（人）

（2）你还能提出什么问题？

※10. 你能找出算式中☀、★和🌙所代表的数字吗？

☀ 2	6 0	🌙 8
− ☀	− 1 ★	+ 🌙 5
8 3	4 ★	7 🌙

☀ =_____　　★ =_____　　🌙 =_____

微信公众号：电子课本大全

5



你能提出什么问题？

你说我讲



用50元钱去买一个 和一个 ，还剩多少元钱？



我这样列式。

$50-13-17=\square$（元）



$$\begin{array}{r} 50 \\ -13 \\ \hline 37 \end{array} \qquad \begin{array}{r} 37 \\ -17 \\ \hline 20 \end{array}$$

$$\begin{array}{r} 50 \\ -13 \\ \hline 37 \\ -17 \\ \hline 20 \end{array}$$



微信公众号：电子课本大全



可以先算一共用了多少钱，再算剩下多少钱。

13+17=30（元）

50−30=20（元）



要买、和，一共需要多少元？

□○□○□=□（元）

自主练习

1.

2月

日	一	二	三	四	五	六
			1	2	3	4
5	6	7	8	9	10	11
12	13	14	15	16	17	18
19	20	21	22	23	24	25
26	27	28	29			

3月

日	一	二	三	四	五	六
				1	2	3
4	5	6	7	8	9	10
11	12	13	14	15	16	17
18	19	20	21	22	23	24
25	26	27	28	29	30	31

4月

日	一	二	三	四	五	六
1	2	3	4	5	6	7
8	9	10	11	12	13	14
15	16	17	18	19	20	21
22	23	24	25	26	27	28
29	30					

这三个月一共有多少天？

2.

38−27+14	60−12−37	56+24−15
64−15−6	4+58+32	62−35−5

3. 文具店有80支铅笔，上午卖了23支，下午卖了27支。还剩多少支？

4. 把每条线上3个数的和填在括号里。

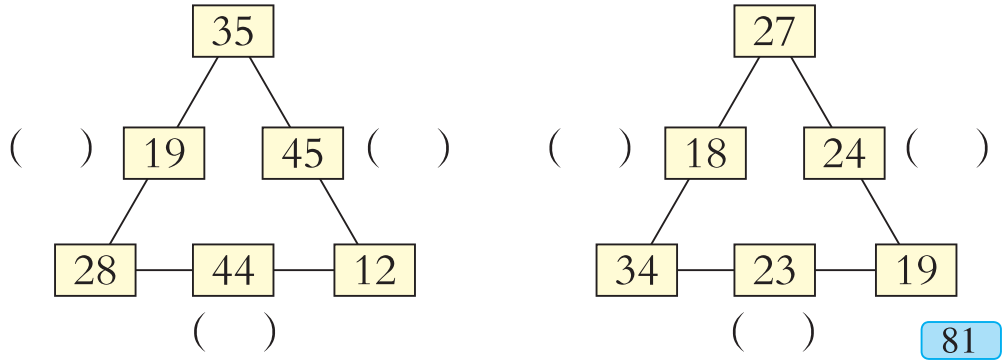

微信公众号：电子课本大全

5. 火眼金睛辨对错。



73−18−26=29

$$\begin{array}{r} 73 \\ -18 \\ \hline 55 \\ -26 \\ \hline 29 \end{array}$$

85−57+24=62

$$\begin{array}{r} 85 \\ -57 \\ \hline 38 \\ +24 \\ \hline 62 \end{array}$$

6.



7.



现在一共有多少位客人？

□○□○□=□（位）

微信公众号：电子课本大全

8. 口算。

45+3=	30+9=	53+7=	42−5=
67−4=	86−80=	91−5=	28+6=

9. 讲数学故事。





我这样讲……

筐里原来有45个松果，
哥哥又摘了……
弟弟又摘了……
现在一共有多少个松果？

我这样讲……



筐里原来有45个松果，
哥哥背走了……
弟弟背走了……
筐里还剩下多少个松果？

你还能讲一个身边的故事吗？

聪明小屋

怎样租车？



微信公众号：电子课本大全

逛灯会

——回顾整理



微信公众号：电子课本大全



微信公众号：电子课本大全

回顾整理


大孔雀和小孔雀一共是由多少盏灯做成的？


两个人一共卖了多少串糖葫芦？


谁卖得多？多多少？


大孔雀比小孔雀多用多少盏灯？


计算时要注意相同数位对齐。


计算时，别忘了进位和退位。



计算竖式加减法应注意：

- 计算加法时……
- 计算减法时……


一共有多少人表演？


还剩多少个气球？


30−5−7=18（个）


19＋32＋28=我先算……

青岛出版社

微信公众号：电子课本大全

综合练习

1. 70−30=　48+6=　42+50=　35−7=　18+20=

　54+40=　33+30=　56−8=　52+20=　67−7=

2.



　你还能提出什么问题？

3. 用竖式计算。

　58−29　68+28　47+22　76−27　39+54

　56+33　27+65　46−44　78−35　97−29

4. 小华的邮票。

种类			
张数	25张	17张	32张

（1） 一共有多少张？

□○□○□=□（张）

（2）你还能提出什么问题？

青岛出版社

微信公众号：电子课本大全

5. 得数大于50的部分涂■，等于50的涂■，小于50的涂■。

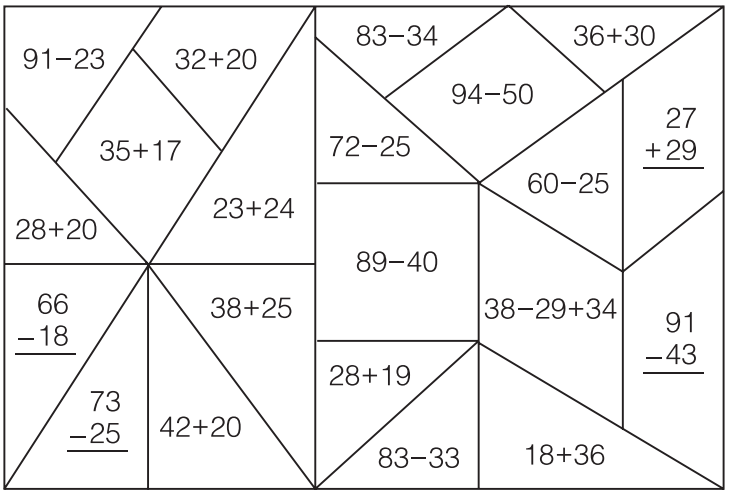

6.



还剩下多少个蘑菇？

7. 风筝是谁的？



微信公众号：电子课本大全

8.

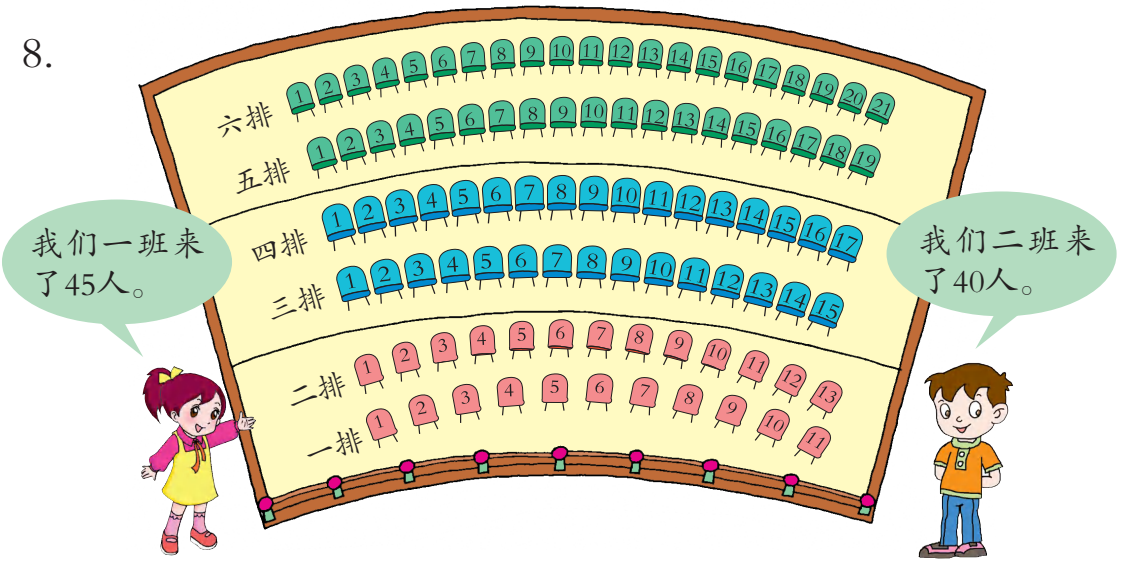

（1）如果一班坐五、六排，能坐下吗？

（2）你还能提出什么问题？在小组内交流一下。

9. 小游戏。

1	2	3	4	5	6	7	8	9	10
11	12	13	14	15	16	17	18	19	20
21	22	23	24	25	26	27	28	29	30
31	32	33	34	35	36	37	38	39	40
41	42	43	44	45	46				50
51	52	53	54	55	56				60
61	62	63	64	65	66				70
71	72	73	74	75	76	77	78	79	80
81	82	83	84	85	86	87	88	89	90

（1）猜一猜硬纸板下面盖住了哪几个数。

（2）盖住的数最小的是多少？最大的是多少？这两个数相差多少？

（3）照上面的方法玩一玩，你有什么发现？

微信公众号：电子课本大全

我学会了吗？



（1）一共有多少只  ？

□ ○ □ = □（只）

（2）哪棵树上的  多？多多少？

□ ○ □ = □（只）

（3）树上还剩几只  ？

□ ○ □ = □（只）

（4）你还能提出什么问题？



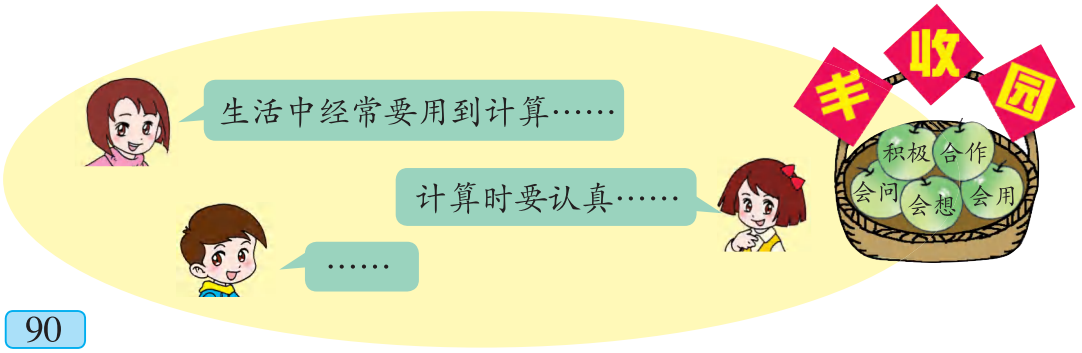

微信公众号：电子课本大全

智慧广场



欢欢今年11岁了，一共种了多少棵树？

你说我讲



我先画一画，再数一数。

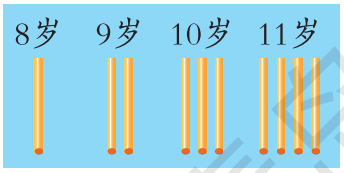



我用手指数一数，8岁1棵，9岁2棵……



可以先将每一年植树的棵数依次列举出来，再加起来。

8岁	1棵
9岁	2棵
10岁	3棵
11岁	4棵

1+2+3+4=10（棵）

欢欢一共种了10棵树。

自主练习

1. 小明背诵英语单词，星期一背诵了3个单词，以后每天都比前一天多背2个，到星期五他一共背诵了多少个单词？

微信公众号：电子课本大全

2.



3.



4. 学校要在三至五年级挑选合唱队队员。如果五年级选了30名，四年级和三年级依次少选5名，那么合唱队一共有多少人？



5.



微信公众号：电子课本大全

八 阿福的新衣

——厘米、米的认识

1





你还能提出什么问题？

微信公众号：电子课本大全

你说我讲



这是怎么回事？

用同一个人的拃量就好了。

……



他俩的拃不一样长。







测量物体的长度通常用尺子。测量较短物体的长度一般用厘米作单位。厘米可以用字母cm表示。

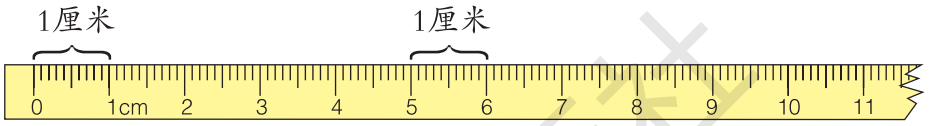



你知道生活中哪些物体的长度大约是1厘米？



我的大拇指的宽度大约是1厘米。

……







怎样测量1拃的长度？



把大拇指指尖对准“0”刻度，中指指尖对准几就是几厘米。

先用绳子比出一拃的长度，再用尺子量出绳子的长度。



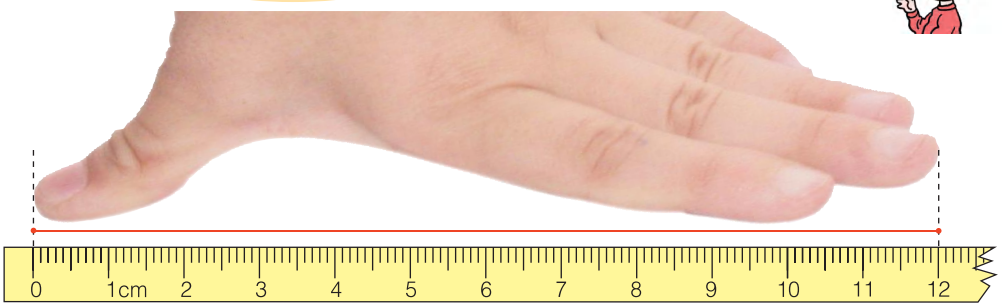

青岛出版社

微信公众号：电子课本大全



下面画的都是线段。你能量出它们的长度吗？





把0刻度线对准线段的一端……





这条线段长3厘米。

……



自主练习

1. 在正确的量法下面画“√”。



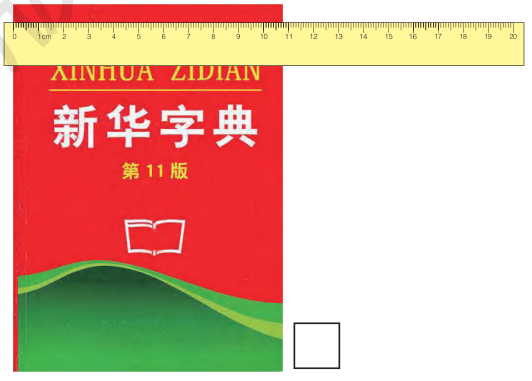

2. 量一量。

物品			
长度	长（　　）厘米	宽（　　）厘米	高（　　）厘米

3. 量一量。

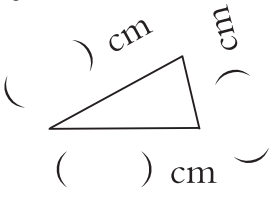

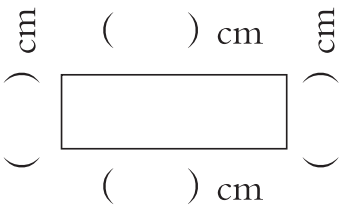

青岛出版社

微信公众号：电子课本大全

4. 填一填。

（　　）厘米

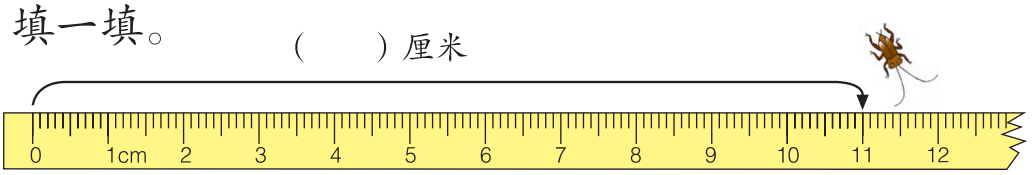

（　　）厘米

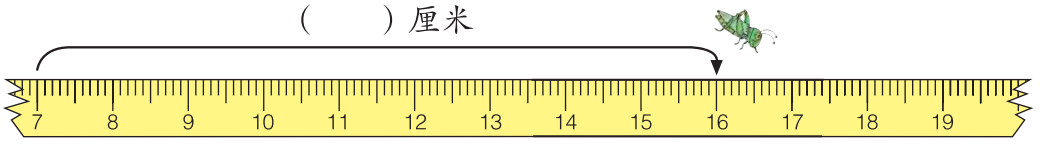

5. 量一量。

（1）

（　　）厘米

（2）

（　　）厘米

6.

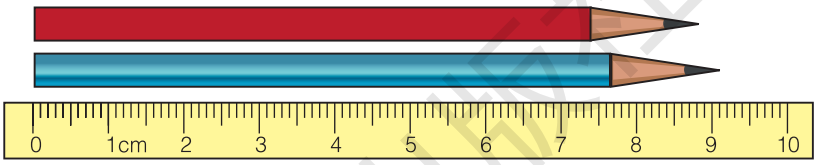

红铅笔的长比（　　）厘米短一些，蓝铅笔的长比（　　）厘米长一些，这两支铅笔的长大约都是（　　）厘米。

7. 先估计，再与你的同学相互量一量。

	估计结果	测量结果
		
		
⋮		

8. 量一量。

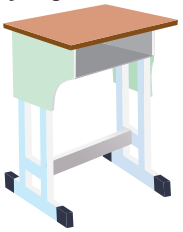

用  量一量你的书桌的宽，共量_____拃。

估计书桌宽约_____cm。

用尺子量得书桌宽_____cm。

微信公众号：电子课本大全

2



你还能提出什么问题？

你说我讲



到底是1米，还是100厘米呢？

100厘米就是1米，1米=100厘米。
米可以用字母m表示。



微信公众号：电子课本大全

自主练习

1. 连一连。



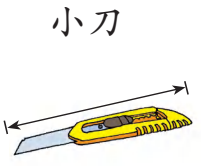

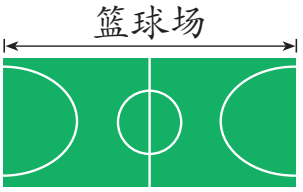

10厘米　　1米30厘米　　28米

2. 填上合适的单位名称。



宽16 _____



长2 _____



高5 _____



长4 _____

3. 可以怎样量？在空格内画“√”。

	教室的长	椅子的高	课桌的长
			
			

4. 在距离4厘米的地方画一棵。



青岛出版社

微信公众号：电子课本大全

我学会了吗？



你想量什么？回家试一试。

	估计结果		测量结果	
	长	宽	长	宽
				
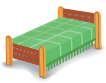				
				



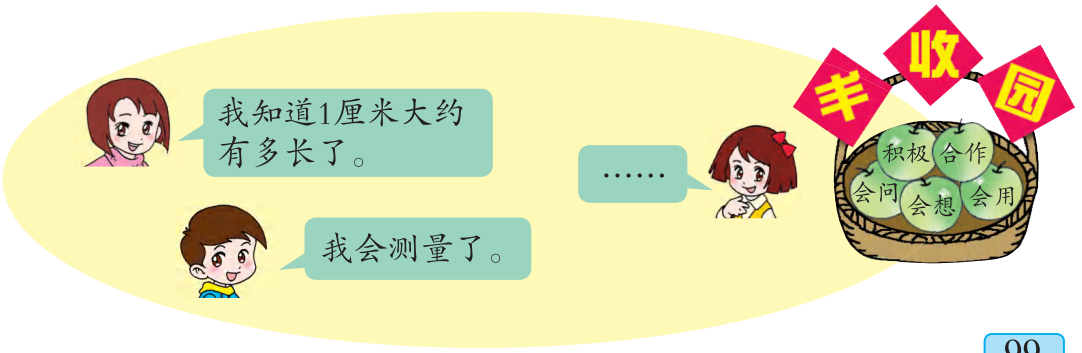

微信公众号：电子课本大全

我们身上的“小尺子”

想一想



量一量





	1号同学	2号同学	3号同学	4号同学
拳头一周的长（厘米）				
脚　长（厘米）				
步　长（厘米）				
一度（tuǒ）长（厘米）				
一拃长（厘米）				
身　高（厘米）				
⋮				

微信公众号：电子课本大全

我拳头一周的长是18厘米，脚长19厘米，长度很接近。





我的一度长118厘米，身高120厘米，长度也很接近。

试一试



可以用拃、度等作工具来测量物体的长度。

我量一量课桌长大约多少厘米。





我量一量黑板长大约多少米。

我量一量教室长大约多少米。





……

议一议

用拃、度……作尺子测量物体的长度很方便。





测量长度要选择合适的单位。

微信公众号：电子课本大全

九 我换牙了

——统计

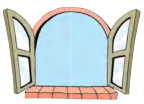

你能提出什么问题？

你说我讲



大家换牙的情况怎样呢？



问一问每位同学，然后记录下来。



怎样记录？

也可以举手数一数，换1颗牙的举手，换2颗牙……





我这样记录。

王红：5颗 李华：4颗 于平：6颗 ……

微信公众号：电子课本大全



我画一个“○”表示1个人……

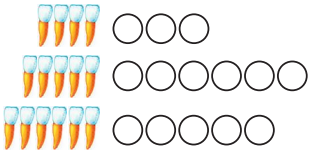



我画一个“√”表示1个人……

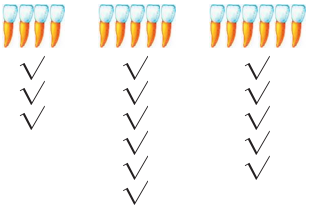

你喜欢哪一种记录方法？



我们来整理一下。

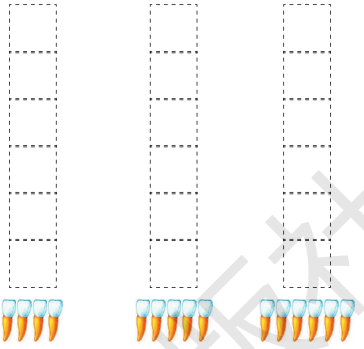



我边数边涂。



还可以这样整理。

（ ）人	（ ）人	（ ）人



我发现换（ ）颗牙的人最多。

我还知道……





我发现换4颗牙的人数比换5颗的……

小知识

换牙期间要保持口腔清洁，经常刷牙。不要用舌头舔刚长出来的牙，不要咬铅笔头、咬嘴唇、啃指甲，不要偏食。

微信公众号：电子课本大全

自主练习

1.



（　）个	（　）个	（　）个

（1）数一数，把结果整理在表格中。

（2）说一说哪种最多，哪种最少。

（3） 比  多（　）个； 比  少（　）个。

（4）从表中你还能知道什么？

2.

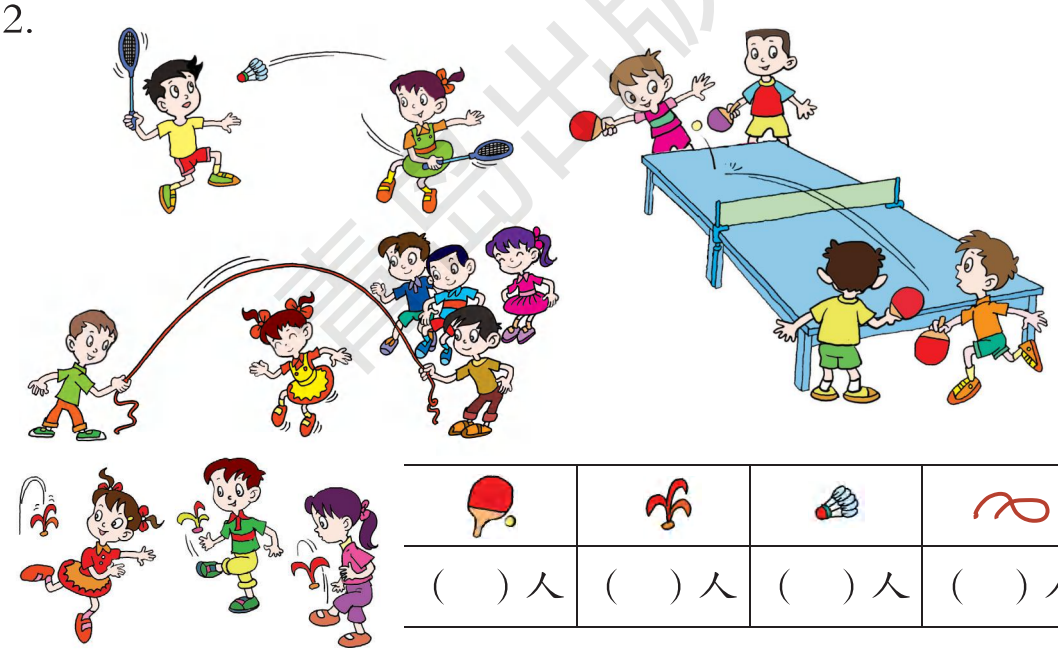

（　）人	（　）人	（　）人	（　）人

（1）数一数，把结果整理在表格中。

（2）说一说哪种运动的人数最多，哪种最少。

（3） 比  的少（　）人， 比  的多（　）人。

（4）从表中你还能知道什么？

微信公众号：电子课本大全

3. 调查你班同学最喜欢吃哪种糖果。

（1）涂一涂。

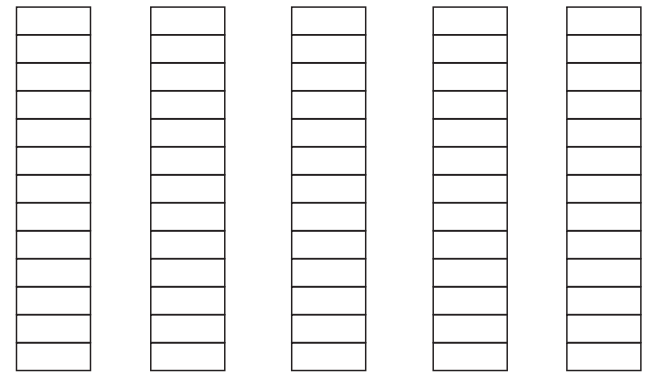

（2）一共调查了多少人？最喜欢吃哪种糖果的人数最多？

（3）你还知道哪些信息？与同伴交流一下。

我学会了吗？

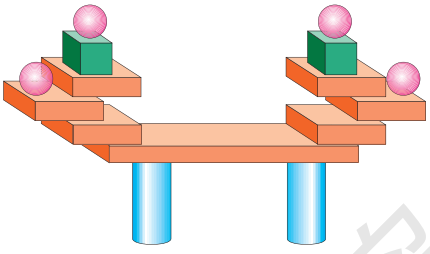

（　）个	（　）个	（　）个	（　）个

（1）数一数，填一填。

（2）左边一共有（　）个图形，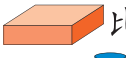比多（　）个，比少（　）个。

（3）你还有什么发现？



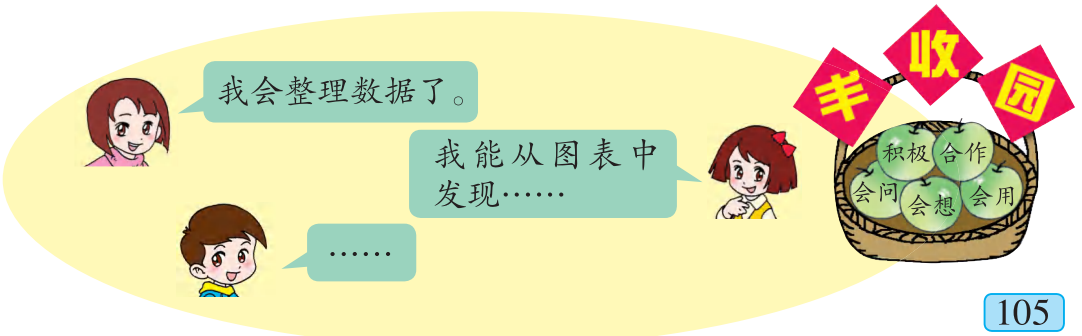

青岛出版社
微信公众号：电子课本大全

十 儿童乐园

——总复习



儿童乐园真热闹，有坐飞天轮的，还有……



微信公众号：电子课本大全



仔细观察，你有什么发现？



微信公众号：电子课本大全

回顾



谁蹦的下数多？



我会比较两个数的大小，66＞23。

23是由2个十和3个一组成的。



66中的两个“6”所表示的意义一样吗？



我知道从右边起第三位是百位。

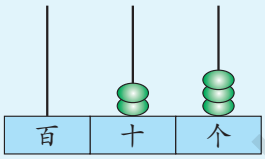



这学期我们学习的内容有……



我会计算坐龙船的和坐飞天轮的一共有多少人。

我会计算坐龙船的比坐飞天轮的少多少人。

还有多少人在等着坐龙船和飞天轮？



坐龙船的有几个女同学？

计算百以内的加减法时要注意……



微信公众号：电子课本大全

整理



买1张碰碰车门票可以怎么付钱？



可以付1张，也可以付2张……

买1瓶矿泉水和1支雪糕需要多少钱？



我有5元钱，可以买什么呢？



“儿童乐园”中有很多数学问题。我们一起来解决吧！





坐小火车的同学是9时开始的。





我的身高是95厘米，需要买票吗？

钟表楼上的图形真漂亮，我们来统计一下吧！



我这样统计。



图形	合计	▭	□	△	○
个数					

微信公众号：电子课本大全

综 合 练 习

1.

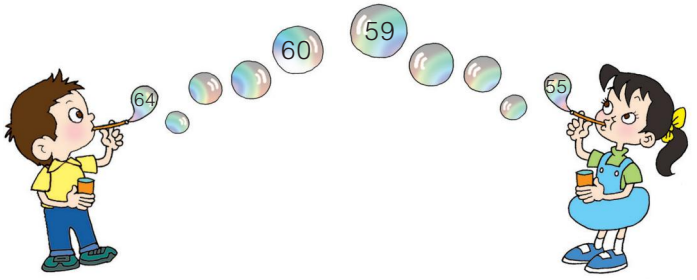

2. 口算。

16−8=	12−5=	4+7=	13−9=
20+5=	34+30=	78−70=	75−3=
81−5=	37+6=	56+4=	20+80=
70+20=	4+28=	5+24=	100−70=

3.



4.

6 4	4 7	8 9	7 0
+ 3 4	+ 2 7	− 2 4	− 4 2
———	———	———	———

5. 比一比。

98 ◯ 62	77 ◯ 50+27	18−9 ◯ 17−9
54 ◯ 45	43 ◯ 46−2	27+6 ◯ 41−5

6. 计算。

28+41	79−55	37+28	73−54
65+25	80−61	54−45	19+73
73+17−38	94−60−15	70−35+28	54−37+19

微信公众号：电子课本大全

7. 看图讲一个数学故事给爸爸、妈妈听。



8. 在括号里填上“米”或“厘米”。

（1）铅笔盒宽8（　　）。　（2）课桌高70（　　）。

（3）旗杆高15（　　）。　（4）丽丽身高1（　　）。

9. 我的小书包。

课本	练习本	课外书
（　　）本	（　　）本	（　　）本

（1）课本与练习本哪个多？

（2）你还能提出什么问题？

10.



（1）买1本和1个，一共需要多少钱？

（2）拿1元钱买1支，应找回多少钱？

（3）你还能提出什么问题？

微信公众号：电子课本大全

11.

			
原有	40个	（　　）个	60副
借出	18个	39个	（　　）副
还剩	（　　）个	8个	12副

12.


36元


28元


89元

（1）比便宜多少元？

（2）小力买了1把，付出50元，找回多少元？

（3）你还能提出什么问题？

13.

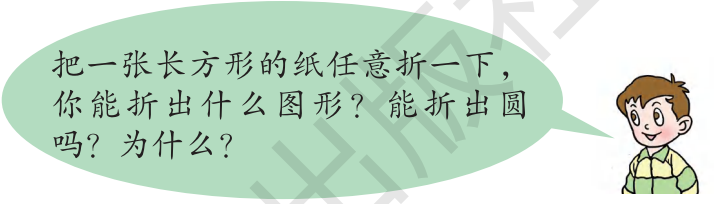

14. 找规律填数。

（1）1、3、5、7、（　）、（　）、（　）、（　）。

（2）95、90、85、（　）、（　）、（　）、（　）。

（3）（　）、（　）、33、43、（　）、（　）、73。

15.



①　②　③

（1）②号车可能运了多少筐？（画“√”）

28	59	100

（2）③号车可能运了多少筐？（画“√”）

58	67	98

微信公众号：电子课本大全

16.





17.



小芳第一天折了22只，第二天折了28只，还需要折多少只 ？

18.



※19. 填一填。

2 □	□ 8	7 □	□ □
+ □ 5	− 4 □	− □ 2	+ 2 8
5 7	2 3	8	5 4

我都学会了吗？

1.

12−4=	17−9=	25+9=
26+3=	47−8=	7+33=
11−2=	3+9=	26+30=

微信公众号：电子课本大全

2.

45+26	38−19	56+29
48+6	74−15	64+17
42+18+12	53−14+29	61−15−28

3. 买体育用品。



29元



3元



35元



6元

（1）买1只  和1个 ，一共多少元？

□○□=□（元）

（2）买1只  和1只 ，一共多少元？

□○□=□（元）

（3）1只  比1个  贵多少元？

□○□=□（元）

（4）你还能提出什么问题？

※4. 比长短。

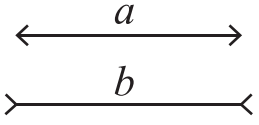

（1）不用测量，看一看哪条线段长。

（2）用直尺分别测量：

线段a长_____厘米；

线段b长_____厘米。

青岛出版社

微信公众号：电子课本大全



微信公众号：电子课本大全

老师，我想对您说：



爸爸、妈妈，我想对您说：





我想对同学说：



我想对自己说：

青岛出版社

微信公众号：电子课本大全

附页

用于38页



用于39页第5题



用于40页第6题



微信公众号：电子课本大全

青岛出版社

微信公众号：电子课本大全

后　记

《义务教育教科书·数学（青岛版）》是经全国中小学教材审定委员会审查通过的教材。

本教材以《义务教育数学课程标准（2011年版）》为依据，以培养学生的创新意识和实践能力为重点，反映教育学、心理学的最新研究成果，致力于改变学生的学习方式，满足学生多样化的学习需求，充分体现义务教育的基础性、普及性与发展性。本教材的主要特点有：

◆由“情境串”引出“问题串”。教材选取密切联系学生生活、生动有趣的素材，构成情境串，引发出一系列的问题，形成问题串，将整个单元的内容串联在一起，使学生在解决一连串现实的、有挑战性问题的过程中融入数学课程，培养学生的问题意识。

◆把解决问题与数学基础知识及基本技能的学习融为一个过程。以解决问题为基本框架，在解决问题的过程中学习数学知识，掌握分析问题和解决问题的基本方法，实现知识、技能和解决问题能力的同步发展。

◆构建开放的、具有一定思维跨度的“板块式”编排结构。拓宽探索空间，体现知识的形成过程，突出基本的数学思想方法，帮助学生积累数学活动经验。

◆注重培养建模意识。引导学生发现问题——提出问题——分析问题——解决问题，体现数学建模过程。

◆倡导独立思考、自主探索、合作交流的学习方式。对此，教材在编写思路、栏目设计、呈现方式等方面均有充分的体现。

◆注重过程性评价。教材为学生提供自我反思与评价的机会，使学生获得学习数学的良好体验，形成良好的学习习惯。

本教材由众多数学家、教育专家、心理学专家、特级教师、教研员及一线骨干教师编写，体现了新一轮课程改革的理念。尽管我们尽了最大努力，但是本教材也可能存在瑕疵，恳请使用者批评指正。

本册主要编写人员：孙凤武、张云萍、杨建维、都丽丽。

编　者

微信公众号：电子课本大全

书　　名　义务教育教科书·数学（一年级下册）
编 著 者　山东省教育科学研究院
出　　版　青岛出版社（青岛市海尔路182号，266061）
本社网址　http://www.qdpub.com
发　　行　山东新华书店集团有限公司
责任编辑　李星灿　吴昊辰
封面设计　于钦平
美术编辑　昃旭红
绘　　画　韩　盈　张婷婷
印　　刷
出版日期　2013年1月第2版　2020年1月第29次印刷
开　　本　16开（787mm × 1092mm）
印　　张　7.75
字　　数　110千
书　　号　ISBN 978-7-5436-2720-8
定　　价　7.41元
编校质量、盗版监督服务电话　400-653-2017　（0532）68068638
印刷厂服务电话：

青岛出版社

微信公众号：电子课本大全