九 年 义 务 教 育 课 本

数学

一年级第二学期
（试用本）



少年儿童出版社

微信公众号：电子课本大全

九 年 义 务 教 育 课 本

数学

一年级第二学期
（试用本）



少年儿童出版社

微信公众号：电子课本大全

目录

一、 复习与提高 1

20以内数的加减法复习 2
计算游戏 3
比一比 5

二、 100以内数的认识 6

十个十个地数 7
认识100 9
百以内数的表示 11
百以内数的大小比较 15
小练习（1） 16
认识人民币 18

三、 时间的初步认识（一） 20

认识钟表 21
几时、几时半 22

四、 100以内数的加减法 25

两位数加减整十数 26
两位数加减一位数 28
两位数加两位数 31
两位数减两位数 37
连加、连减及加减混合 41
小练习（2） 44

微信公众号：电子课本大全

五、 几何小实践 45

左与右 46
上、中、下，左、中、右 48
长度比较 50
度量 52
线段 56

六、 整理与提高 58

百数表 59
两位数加减法复习 61
交换 67
各人眼中的20 69
小练习（3） 70

上海市中小学（幼儿园）课程教材委员会办公室



练习



在练习本上完成

带 *的是拓展题

微信公众号：电子课本大全

一、复习与提高

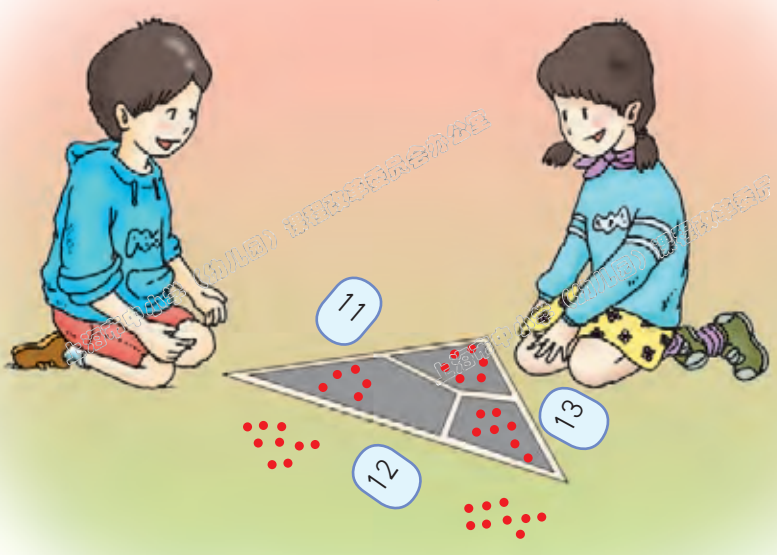

微信公众号：电子课本大全

20以内数的加减法复习

算一算，填一填。



微信公众号：电子课本大全

计算游戏

1.



2.

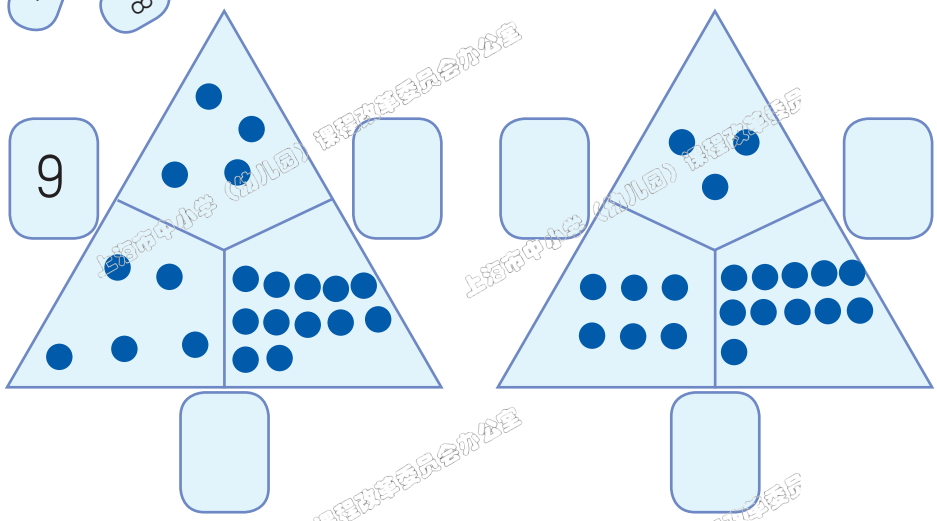

3.

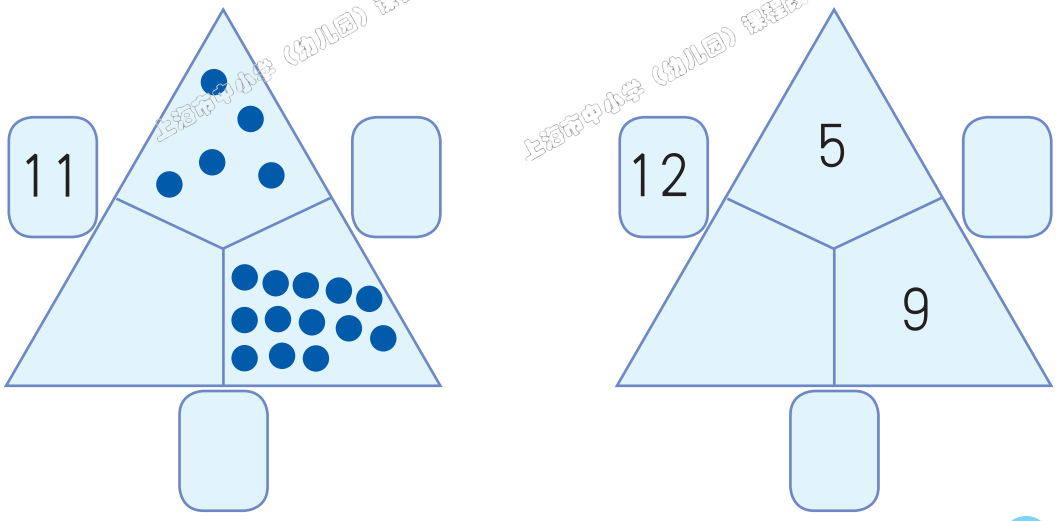

微信公众号：电子课本大全

4.

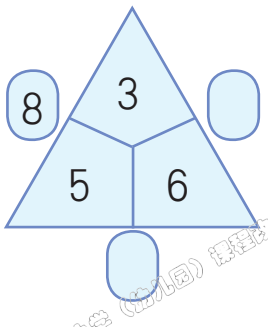

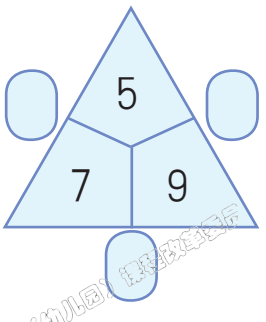

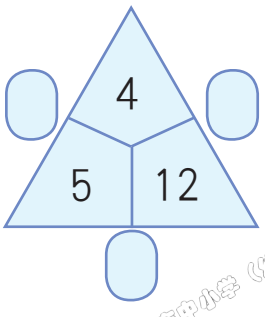

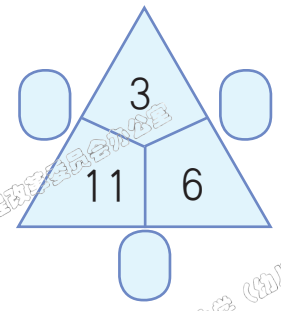

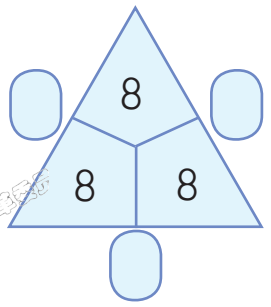

5.

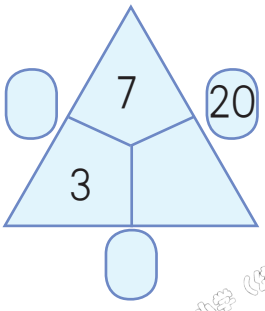

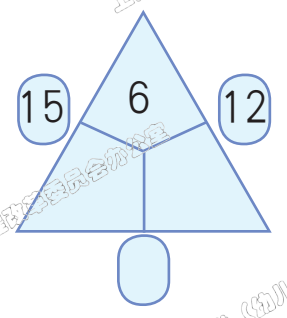

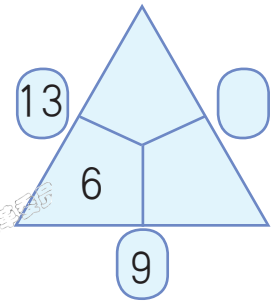

6.*用小圆片摆一摆，试一试。

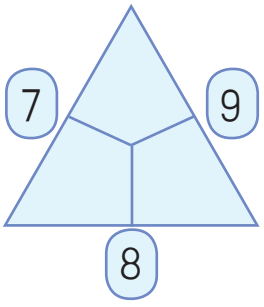



微信公众号：电子课本大全

比一比

1. 踩高跷，与  比高低。





2. 可以填入哪些数？最大的是几？

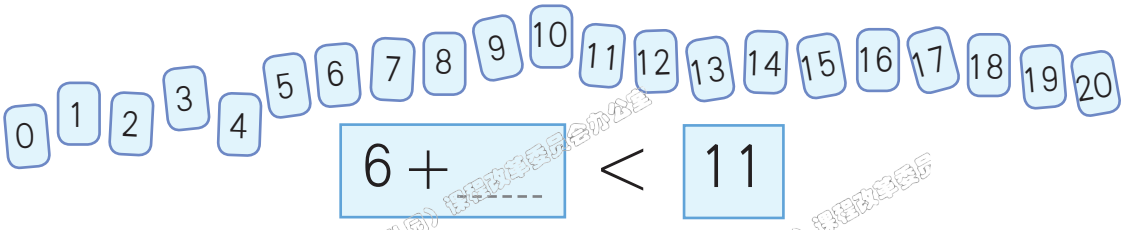

6 + 2 < 11　　6 + ____ < 11　　6 + ____ < 11

6 + 4 < 11　　6 + ____ < 11

3. 可以填入哪些数？最大的是几？

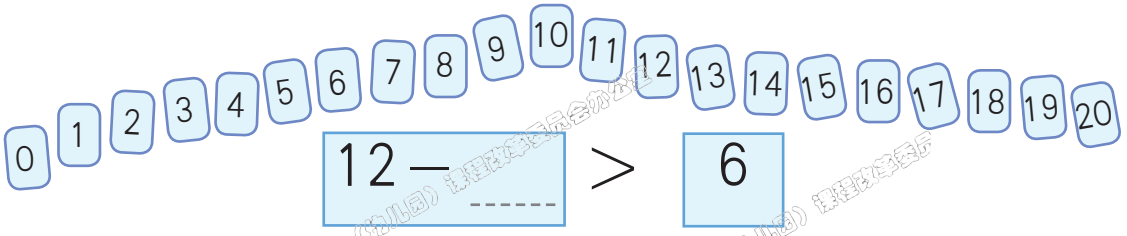

12 − ____ > 6　　12 − ____ > 6　　12 − ____ > 6

12 − ____ > 6　　12 − ____ > 6　　12 − ____ > 6

4. 最大填几？

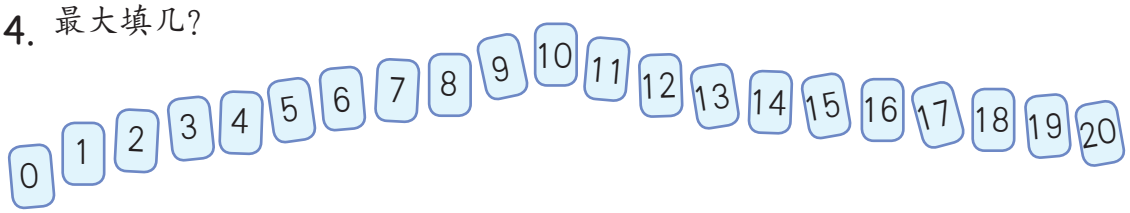

7 + 5 < 13　　9 + ____ < 17　　6 + ____ < 14

16 − ____ > 8　　11 − ____ > 7　　13 − ____ > 6

微信公众号：电子课本大全

二、100以内数的认识



上海市中小学（幼儿园）课程改革委员会办公室

微信公众号：电子课本大全

十个十个地数



1. 有多少只羊？







这么多羊，怎样记羊的数目呢？



远古时代人们用刻痕来表示数。





十个一圈……





这样数很方便！



2. 写与读。

10个一是1个十。2个十和6个一是二十六。



圈(十只)	单只
2	6

	十位	个位
写：	2	6

读：　二十六

2写在左边，表示2个十，6写在右边，表示6个一。



微信公众号：电子课本大全

3. 10根一捆，自己动手。



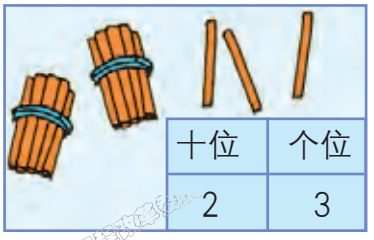

十位	个位
2	3

2个十和3个一是23

20 + 3 = 23

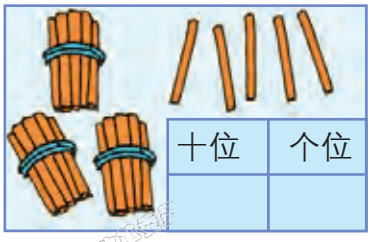

十位	个位

个十和 个一是

+ =

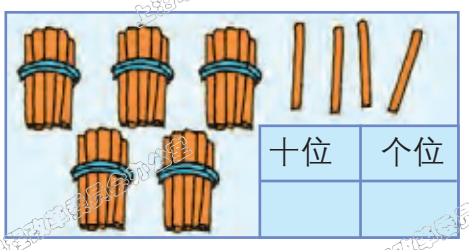

十位	个位

个十和 个一是

+ =

4. 圈一圈，数一数，记下来。



十位	个位



十位	个位



十位	个位

微信公众号：电子课本大全



1. 装面包。



今日生产

箱(百)	袋(十)	个

有多少个？



箱(百)	袋(十)	个
1	0	0

10个十是1个百。

百位	十位	个位
1	0	0

百位上写1，十位、个位上写0，表示100。百位上的1表示1个百。



2. 百数图。

10个十是100。



1个十	10	十
2个十	20	二十
＿个十	＿＿	三十
＿个十	＿＿	四十
＿个十	＿＿	五十
＿个十	＿＿	六十
＿个十	＿＿	七十
＿个十	＿＿	八十
＿个十	＿＿	九十
＿个十	100	一百

微信公众号：电子课本大全

3. 用百数图计算。



10
10 + 10 = 20
20 + 10 = 30
30 + 10 = 40
50

50 + 10 = 60
50 + 20 = 70
50 + 30 = 80
50 + 40 = 90
100

1个10
2个10
3个10
4个10
5个10

6个10
7个10
8个10
9个10
10个10

4.

50 + 40 = ____	80 + 10 = ____	100 − 50 = ____	50 − 30 = ____
40 + 40 = ____	70 + 20 = ____	100 − 60 = ____	60 − 40 = ____
30 + 40 = ____	60 + 30 = ____	100 − 70 = ____	70 − 50 = ____
20 + 40 = ____	50 + 40 = ____	100 − 80 = ____	80 − 60 = ____
10 + 40 = ____	40 + 50 = ____	100 − 90 = ____	90 − 70 = ____

5. 计算。

30 + 70	80 − 20	10 + 70	100 − 80	10 + 10
20 + 80	100 − 20	20 + 60	90 − 70	30 + 10
50 + 50	50 − 20	30 + 50	80 − ____	50 + ____
60 + 40	60 − 20	40 + 40	____ − ____	____ + ____
90 + 10	90 − 20	50 + 30	____ − ____	____ + ____

微信公众号：电子课本大全

百以内数的表示

1.



看桃花记数。

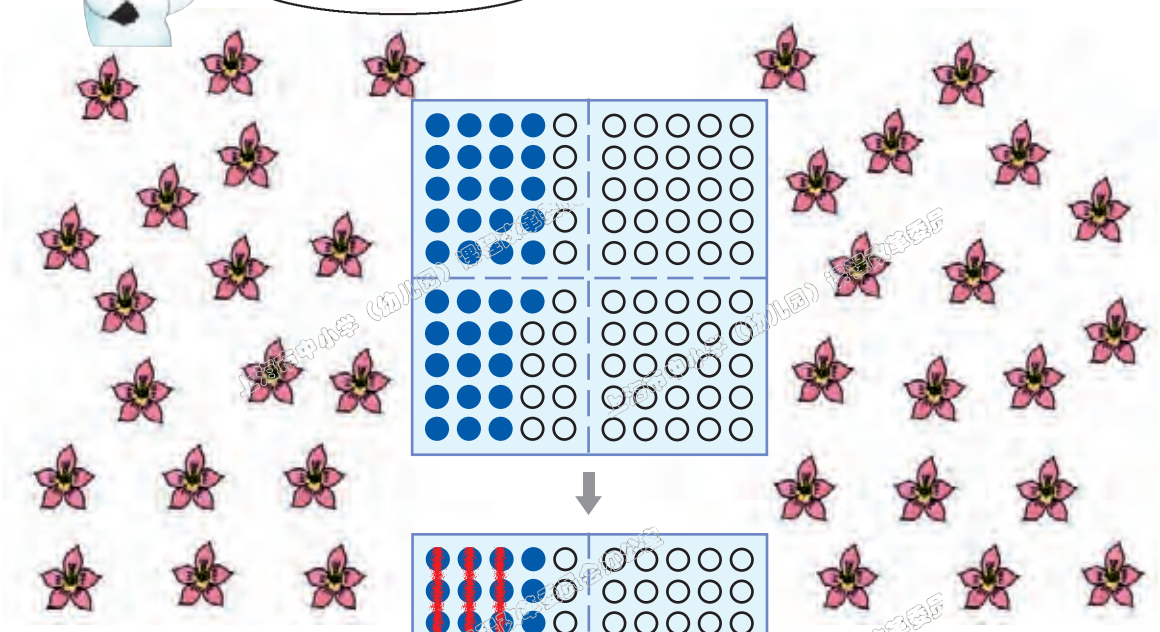

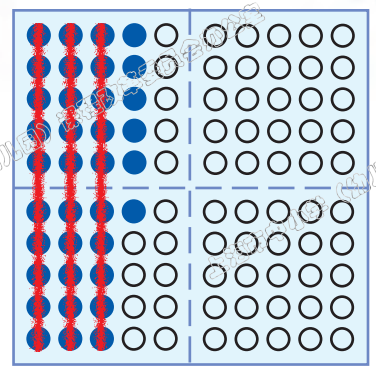

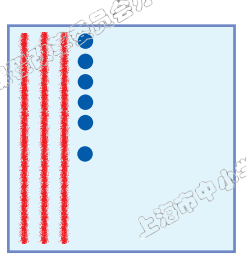

10个一是1个十。



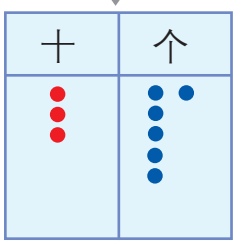

十位	个位
3	6

36

上海市中小学（幼儿园）课程教学参考书

微信公众号：电子课本大全

2.填一填。

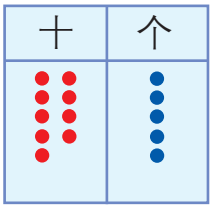

十位	个位
9	5

95

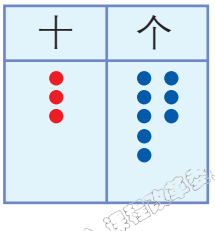

十位	个位

____

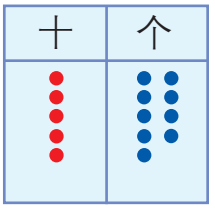

十位	个位

____

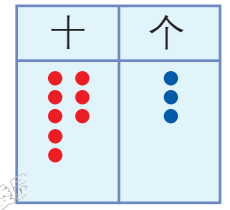

十位	个位

____

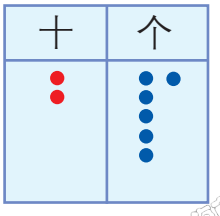

十位	个位
2	6

26

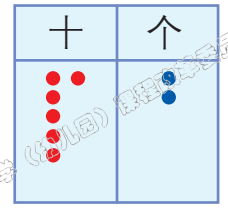

十位	个位

____

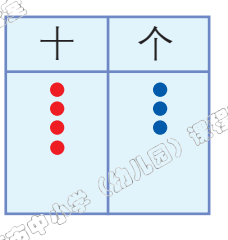

十位	个位

____

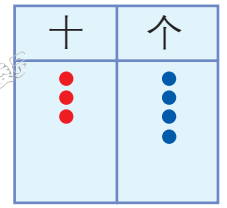

十位	个位

____

3.填一填，画一画。

十位	个位
3	7

37

十位	个位

60

十位	个位

50

十位	个位

28

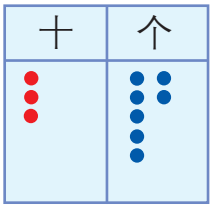

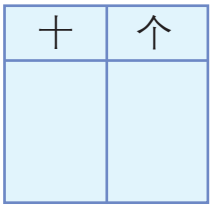

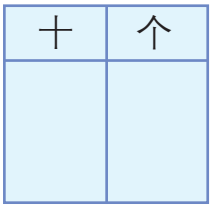

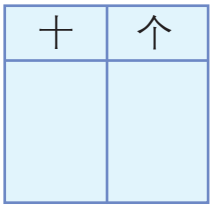

微信公众号：电子课本大全

4. 数射线上百以内的数。

(1)数一数，并在数射线上标出数。

①十个十个地数，并标出：10，20，30，40，…，100；　100，90，80，…，0



②十个十个地数，并标出：5，15，25，…，95；　95，85，75，…，5

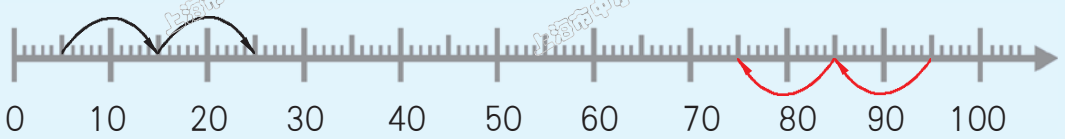

③在数射线上数，并标出：20，21，22，…，30；　40，41，42，…，50；
70，71，72，…，90

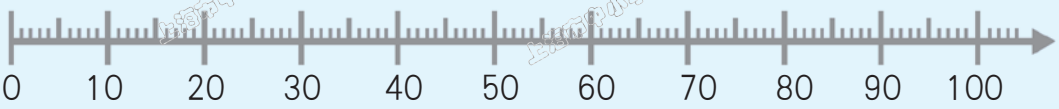

④在数射线上数，并标出：20，22，24，…，40；　60，62，64，…，80

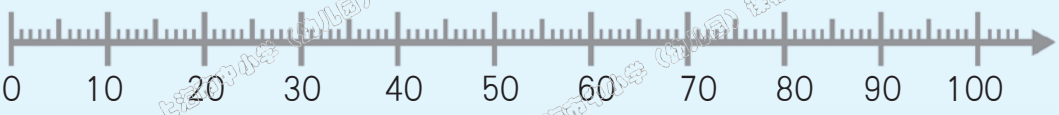

⑤在数射线上数，并标出：　20，25，30，…，60；　70，75，80，…，100

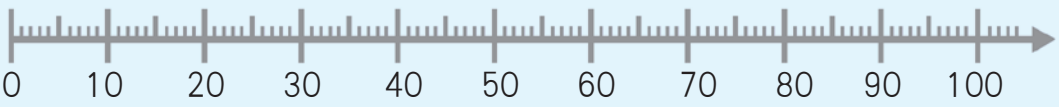

微信公众号：电子课本大全

(2)写出a、b …表示的数。

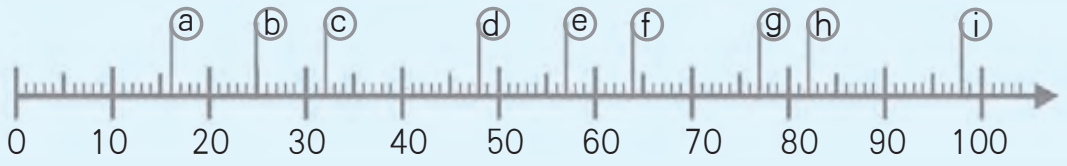

a＝□　　c＝□　　e＝□　　g＝□　　i＝□

b＝□　　d＝□　　f＝□　　h＝□

(3)在数射线上标出：21、29、32、38、43、72、83、94

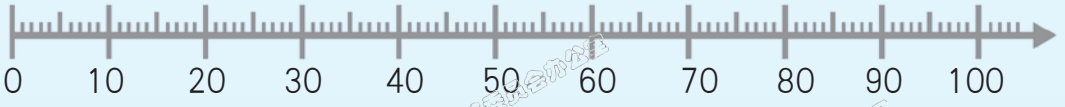

(4)写出与a、b …相邻的整十数。

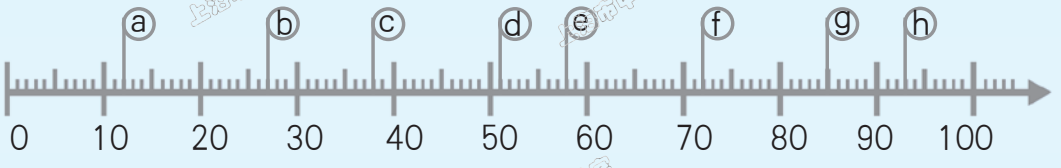

10	a	20		c			e			g	
	b			d			f			h	

(5)写出与下面数最邻近的整十数。

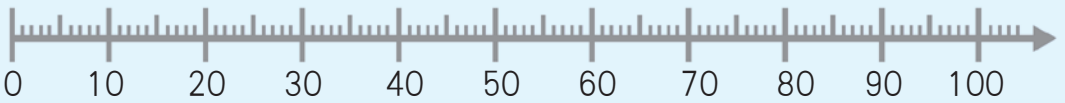

与28最邻近的整十数是_____；　　与72最邻近的整十数是_____；

与34最邻近的整十数是_____；　　与66最邻近的整十数是_____。

微信公众号：电子课本大全

百以内数的大小比较



1. 
63与38哪个数大？



从0开始，1，2，3，4，……，挨着数，后面的数比前面的数大。

在数射线上，标在右边的数比标在左边的数大。



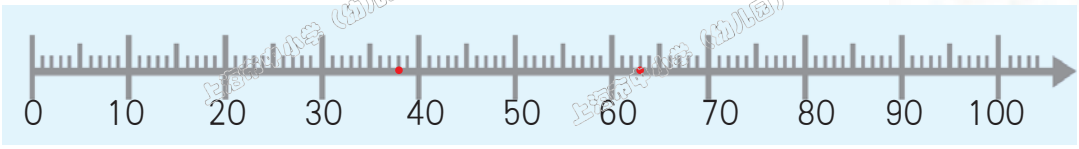

答：63比38大。

2. 比较大小。

26 ○ 62　　39 ○ 35　　73 ○ 7

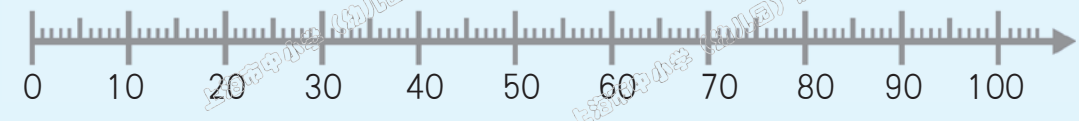

27 ○ 37　　52 ○ 62　　88 ○ 68

19 ○ 91　　42 ○ 24　　54 ○ 45

89 ○ 90　　37 ○ 30　　99 ○ 90

9 ○ 41　　8 ○ 38　　0 ○ 100



两个两位数比大小，先看十位上的数，十位上的数大，这个两位数就大。

十位上的数相同，比个位，个位上的数大，这个两位数就大。



微信公众号：电子课本大全

小练习(1)



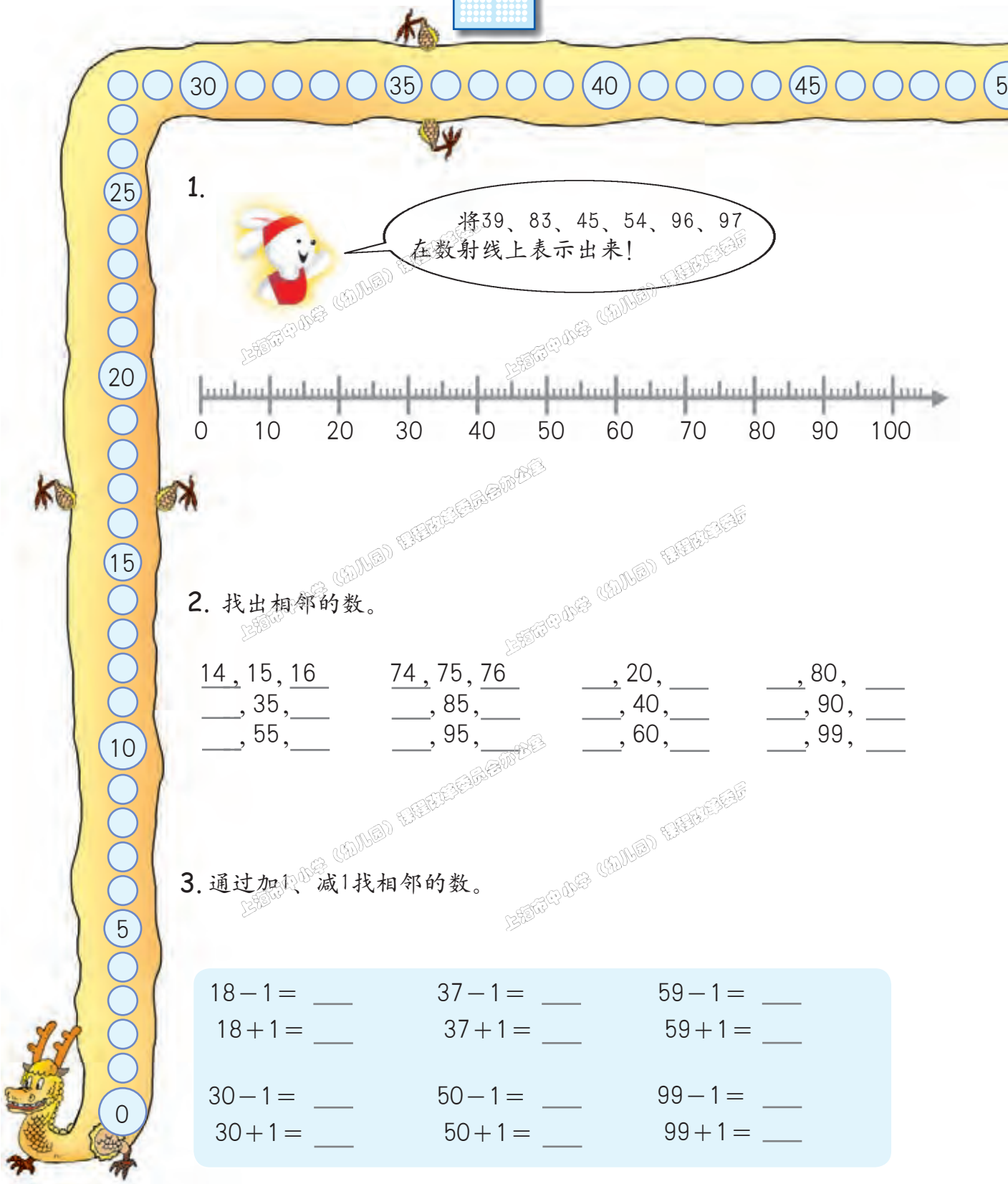

1.

将39、83、45、54、96、97在数射线上表示出来！

2. 找出相邻的数。

14, 15, 16	74, 75, 76	___, 20, ___	___, 80, ___
___, 35, ___	___, 85, ___	___, 40, ___	___, 90, ___
___, 55, ___	___, 95, ___	___, 60, ___	___, 99, ___

3. 通过加1、减1找相邻的数。

18−1= ___	37−1= ___	59−1= ___
18+1= ___	37+1= ___	59+1= ___
30−1= ___	50−1= ___	99−1= ___
30+1= ___	50+1= ___	99+1= ___

上海市中小学（幼儿园）课程改革委员会办公室

微信公众号：电子课本大全

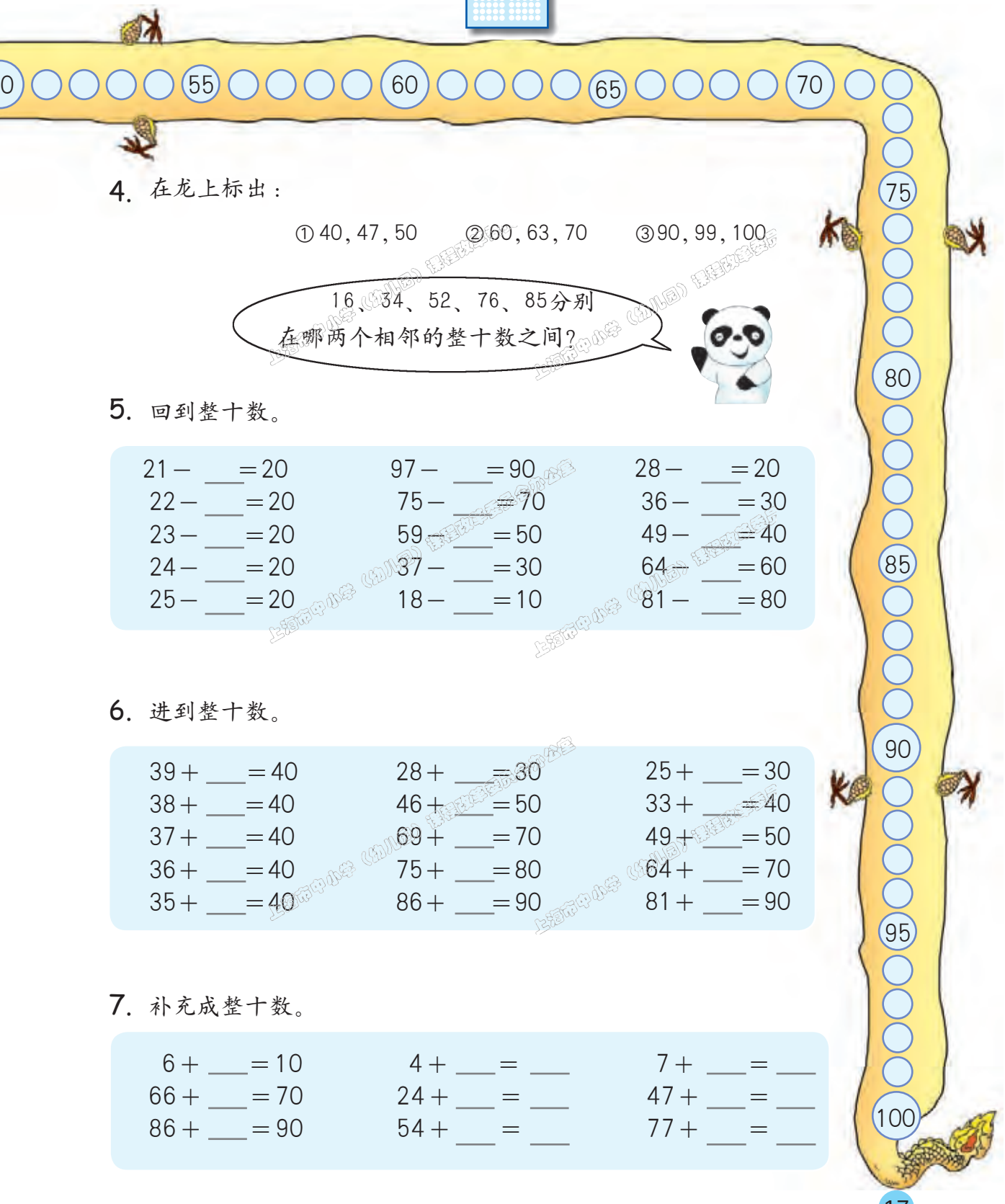

4. 在龙上标出：

① 40，47，50　　② 60，63，70　　③ 90，99，100

16、34、52、76、85分别在哪两个相邻的整十数之间？

5. 回到整十数。

21 − ___ = 20	97 − ___ = 90	28 − ___ = 20
22 − ___ = 20	75 − ___ = 70	36 − ___ = 30
23 − ___ = 20	59 − ___ = 50	49 − ___ = 40
24 − ___ = 20	37 − ___ = 30	64 − ___ = 60
25 − ___ = 20	18 − ___ = 10	81 − ___ = 80

6. 进到整十数。

39 + ___ = 40	28 + ___ = 30	25 + ___ = 30
38 + ___ = 40	46 + ___ = 50	33 + ___ = 40
37 + ___ = 40	69 + ___ = 70	49 + ___ = 50
36 + ___ = 40	75 + ___ = 80	64 + ___ = 70
35 + ___ = 40	86 + ___ = 90	81 + ___ = 90

7. 补充成整十数。

6 + ___ = 10	4 + ___ = ___	7 + ___ = ___
66 + ___ = 70	24 + ___ = ___	47 + ___ = ___
86 + ___ = 90	54 + ___ = ___	77 + ___ = ___

微信公众号：电子课本大全

认识人民币

1.



现在来认一认人民币。

纸　币

第五套人民币

1元 

5元 

10元 

20元 

50元 

100元 

第四套人民币

1元 

2元 

5元 

10元 

50元 

100元 

1角 

2角 

5角 

硬　币

1分 

2分 

5分 

1角 

5角 

1元 

微信公众号：电子课本大全

2. 换算。






1角 = 10分　　1元 = 10角




和 _____ 个  可以互换。


和 _____ 个  可以互换。


和 _____ 张  可以互换。


和 _____ 张  可以互换。


和 _____ 张  可以互换。


和 _____ 张  可以互换。


和 _____ 张  可以互换。

微信公众号：电子课本大全

三、
时间的初步认识（一）



上海市中小学（幼儿园）课程改革委员会办公室

微信公众号：电子课本大全

认识钟表

1. 各种各样的钟、表。









2. 时针和分针。







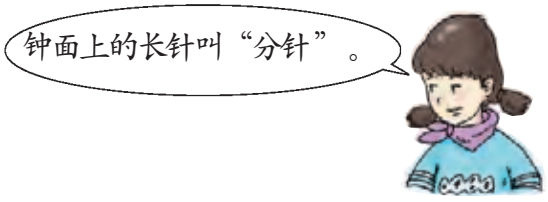

上海市中小学（幼儿园）课程改革委员会办公室

微信公众号：电子课本大全

几时、几时半

1. 小胖的一天。



0	1	2	3	4	5	6	7	8	9	10	11	12

















微信公众号：电子课本大全



1	2	3	4	5	6	7	8	9	10	11	12
13	14	15	16	17	18	19	20	21	22	23	24



微信公众号：电子课本大全

2.



拨一拨。



把指针拨到

3时半	6时
8时半	9时
10时	12时半

3. 说一说小巧下午起在做什么。






4. 分针在哪里？

12时	9时	3时半	2时	6时半	10时半

微信公众号：电子课本大全

四、100以内数的加减法



上海市中小学（幼儿园）课程改革委员会办公室

微信公众号：电子课本大全

两位数加减整十数



1. 18 ＋ 30 ＝ ？

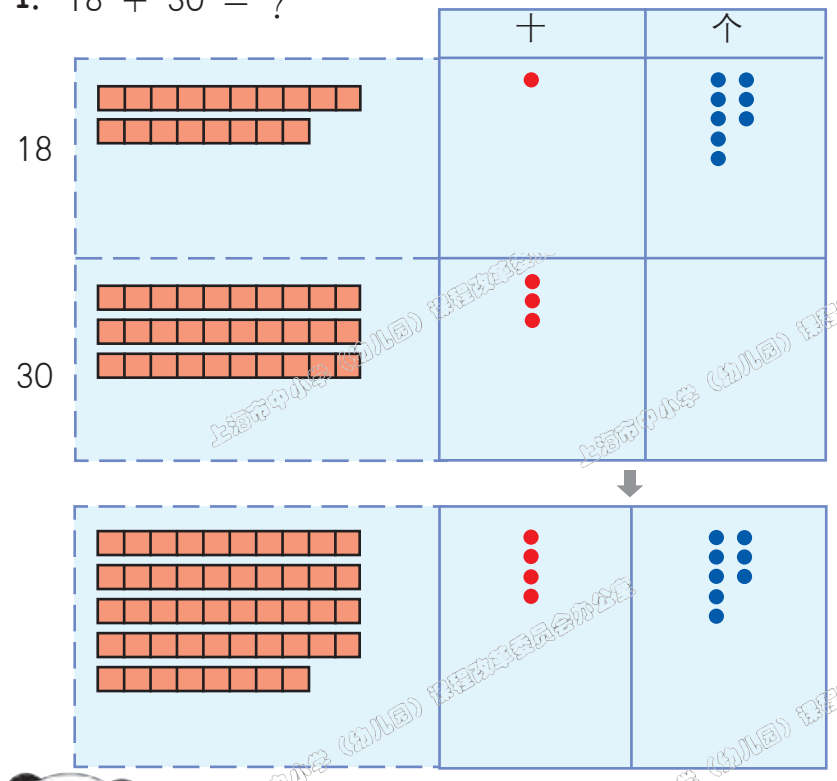

$$\begin{aligned} 18+30&=\square \\ 10+30&=40 \\ 40+\ 8&=48 \end{aligned}$$



30＋18＝？

只要在18的十位上加3。



2. 算一算，想一想。

49＋10	36＋10	53＋10	10＋21	10＋67
49＋20	36＋20	53＋30	20＋21	67＋20
49＋30	36＋30	53＋40	70＋21	30＋67

3. 昨天小丁丁钓了27条鱼，今天钓了20条，两天一共钓了多少条？



微信公众号：电子课本大全

4. 37 − 20 = ?

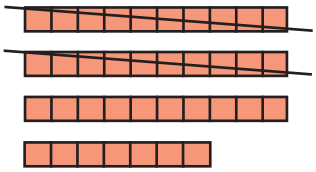

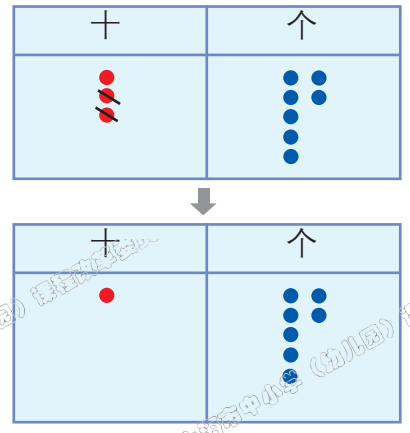

37 − 20 = □

30 − 20 = 10

10 + 7 = 17



5. 算一算，想一想。

37 − 20	64 − 10	46 − 10	55 − 10	72 − 10
37 − 10	64 − 20	46 − 20	55 − 30	72 − 30
37 − 30	64 − 50	46 − 30	55 − 50	72 − 40

6. 算一算，比一比。

64 + 30	45 + 20	81 + 10	72 + 20	33 + 30
64 − 30	45 − 20	81 − 10	72 − 20	33 − 30

7. 图书角有64本书，借出了40本，还剩多少本书？



上海市中小学（幼儿园）课程改革委员会办公室

微信公众号：电子课本大全

两位数加减一位数



1. 23 + 2 = ?

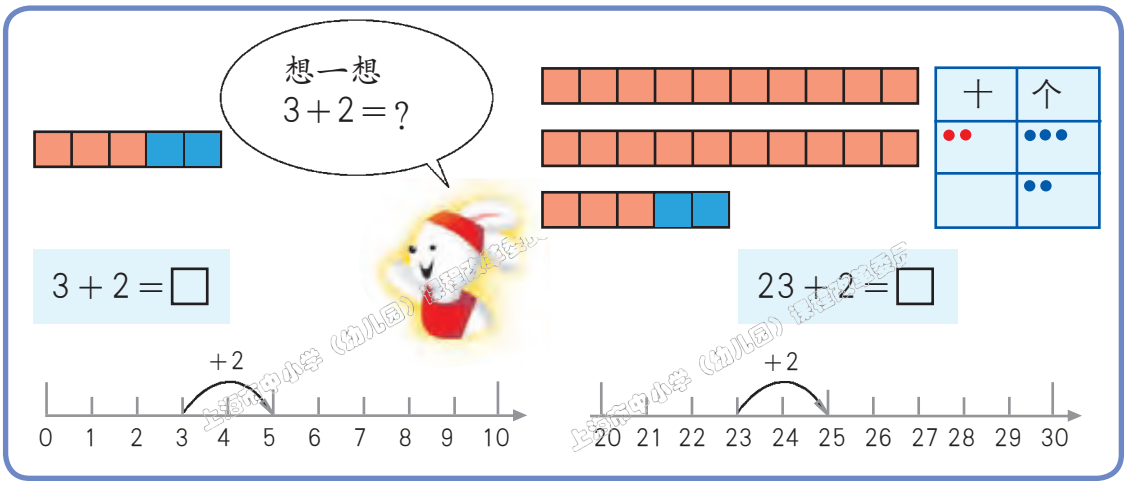

$$\begin{array}{r} 23+\ 2=\square \\ \hline 3+\ 2=\ 5 \\ 20+\ 5=25 \end{array}$$





心算练习：

3 + 4 = □	35 + 3 = □	24 + 5 = □	8 + 91 = □
23 + 4 = □	21 + 7 = □	44 + 2 = □	5 + 72 = □
33 + 4 = □	46 + 0 = □	83 + 6 = □	0 + 37 = □
63 + 4 = □	72 + 6 = □	72 + 7 = □	1 + 42 = □

2. 25 − 4 = ?

$$\begin{array}{r} 25-\ 4=\square \\ \hline 5-\ 4=\ 1 \\ 20+\ 1=21 \end{array}$$





心算练习：

5 − 4 = □	35 − 3 = □	76 − 5 = □	89 − □ = 81
25 − 4 = □	63 − 0 = □	28 − 3 = □	63 − □ = 60
35 − 4 = □	47 − 4 = □	57 − 6 = □	78 − □ = 72
65 − 4 = □	89 − 8 = □	49 − 7 = □	36 − □ = 34

微信公众号：电子课本大全

3.



蛋盒中有27个蛋，母鸡又生了5个蛋，现在一共有多少个蛋？



先把蛋盒装满。凑成十个一盒！



10个一就是1个十，满10进1，要进位！

$27+5=\square$（个）



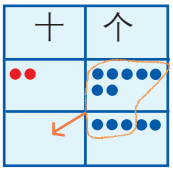

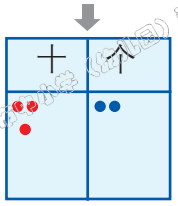

$27+5=\square$

$7+5=12$

$20+12=32$

先凑整十数。

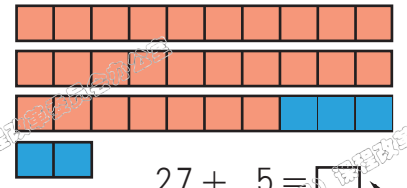



$27+5=\square$

$27+3=30$

$30+2=32$



答：现在一共有32个蛋。

4. 在数射线上看上面的计算过程。

先加到整十数！

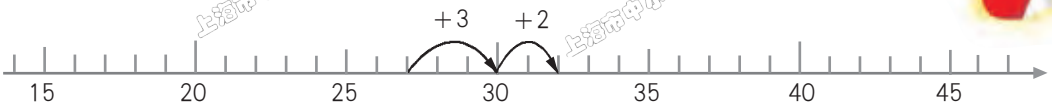

$27+5=\square$

5. 计算。

$26+9=\square$	$48+4=\square$	$33+8=\square$	$6+26=\square$
$43+9=\square$	$27+7=\square$	$25+9=\square$	$9+44=\square$
$32+9=\square$	$36+5=\square$	$49+4=\square$	$7+18=\square$

微信公众号：电子课本大全

6.



我有32个蛋，送给小丁丁5个蛋，还剩下几个蛋？

先把零头减去后再减。





$32-5=\square$（个）

1个十就是10个一，退1作10，要退位哦！



$32-5=\square$

$12-5=7$

$20+7=27$

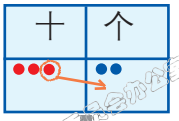

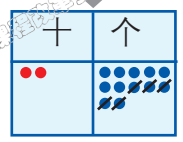

先减到整十数。



$32-5=\square$

$32-2=30$

$30-3=27$

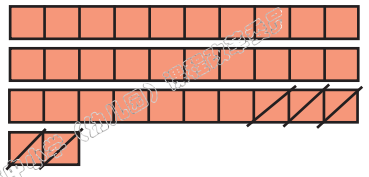



答：还剩下27个蛋。

7. 在数射线上看上面的计算过程。

先减到整十数！



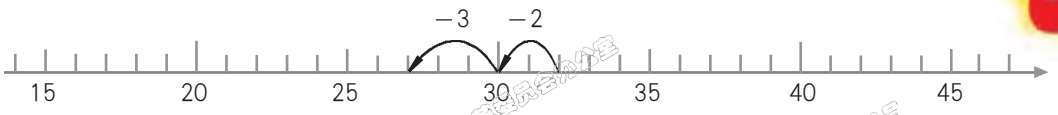

$32-5=\square$

8. 计算。

$25-9=\square$	$32-8=\square$	$31-4=\square$	$33-6=\square$
$44-9=\square$	$24-7=\square$	$55-7=\square$	$21-2=\square$
$36-9=\square$	$23-6=\square$	$43-7=\square$	$34-7=\square$

9. 计算。

33 + 3	47 + 2	58 + 8	8 + 48	9 + 27
33 − 3	47 − 5	63 − 7	6 + 36	7 + 28
33 + 8	47 + 4	23 + 9	5 + 35	53 − 9
33 − 8	47 − 8	65 − 5	4 + 78	62 − 8

微信公众号：电子课本大全

体育用品商店



微信公众号：电子课本大全

1.

$37 + 12 = ?$ （元）



十	个
●●●	●●●●● ●●
●	●●



一共要多少元钱？

十	个
●●●	●●●●● ●●
●	●●

$37 + 12 = \square$

$37 + 10 = 47$

$47 + 2 = 49$





十	个
●●●	●●●●● ●●
●	●●

$37 + 12 = \square$

$30 + 10 = 40$

$7 + 2 = 9$

$40 + 9 = 49$

十	个
●●●	●●●●● ●●
●	●●

$37 + 12 = \square$

$30 + 12 = 42$

$42 + 7 = 49$



答：一共要 ____ 元钱。

2. 算一算。

都选好了，他们各买的是什么？
用你喜欢的方法算一算要多少元钱。





42 + 37



21 + 22



22 + 41



37 + 21

微信公众号：电子课本大全

买玩具



1.



一共要多少元钱？

38＋25＝？　（元）

十	个
●●	●●●●● ●●●
●●	●●●●●

38＋25＝□

30＋20＝50

8＋5＝13

50＋13＝63



十	个
●●●	●●●●● ●●●
●●	●●●●●



38＋25＝□

38＋20＝58

58＋5＝63

十	个
●●●	●●●●● ●●●
●●	●● ●●●



38＋25＝□

38＋2＝40

40＋23＝63

答：一共要 ____ 元钱。



2. 算一算。

用你喜欢的方法计算。

38＋29＝____　　27＋34＝____　　47＋34＝____

微信公众号：电子课本大全

3.



38＋25也可以用竖式计算！

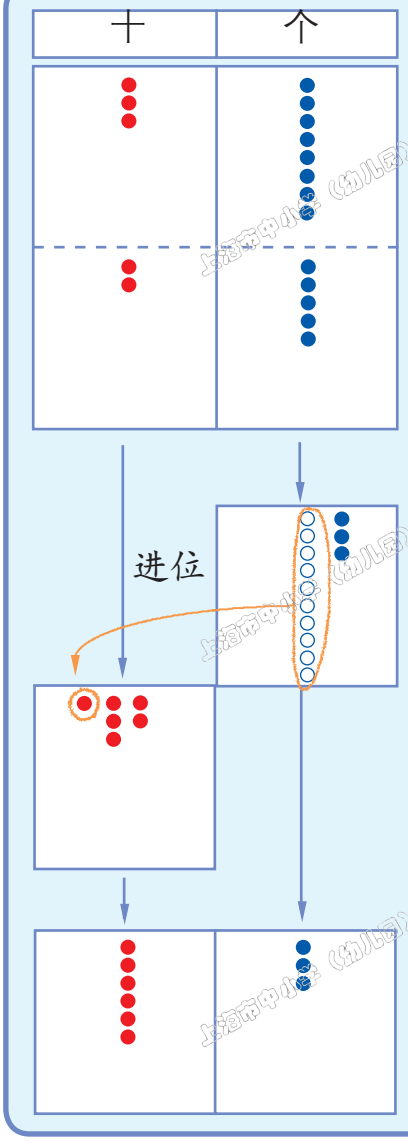


```
  3 8
+ 2 5
-------
```

相同数位要对齐。

```
  3 8
+ 2 5
-------
    3
```

从个位算起：
8＋5＝13
个位上写3，
向十位进1。

```
  3 8
+ 2 5
  1
-------
    3
```

十位上不要忘了加进位的1：
3＋2＋1＝6。

```
  3 8
+ 2 5
  1
-------
  6 3
```

做加法时：
1.相同数位要对齐；
2.从个位算起；
3.个位满10，向十位进1。



微信公众号：电子课本大全

4. 算一算。



现在让我们来试一试。

	(1)		3	8		(2)		3	6	
		+	2	4			+	2	5	
	(3)		3	7		(4)		2	9	
		+	5	4			+	6	3	

5. 用竖式计算。

2 5	4 9	6 7	7 2	3 8
+ 3 6	+ 2 3	+ 2 4	+ 1 8	+ 4 4

6.



错在哪里？

4 7	2 2	1 2	3 1
+ 2 3	+ 5 7	+ 2 9	+ 2 9
6 0	8 9	3 1 1	6

7. 用竖式计算。

23 + 68	59 + 12	38 + 47
58 + 36	34 + 48	65 + 19

微信公众号：电子课本大全

8. 列式并计算。



买  和  一共要多少元钱？



买  和  一共要多少元钱？



钱盒里原来有65元，又放入17元，钱盒里现在有多少元钱？



买  和  一共要多少元钱？



任意选两种玩具，算一算需要多少元钱？



微信公众号：电子课本大全

两位数减两位数



1.



我有58元，买了一个手提包，用去25元，还剩下多少元钱？



大家帮小胖算一算。

58 − 25 = ？（元）

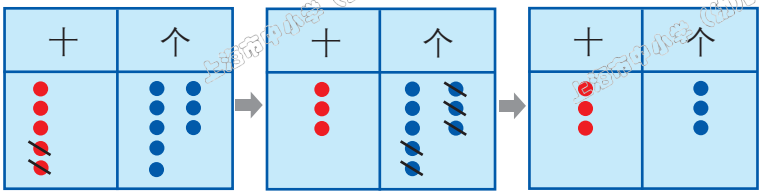

58 − 25 = □

58 − 20 = 38

38 − 5 = 33





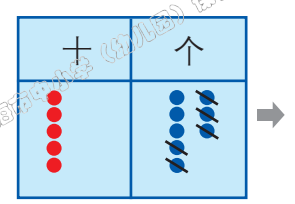

58 − 25 = □

58 − 5 = 53

53 − 20 = 33



你们是怎样算的？

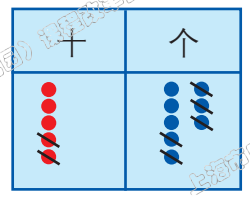

58 − 25 = □

50 − 20 = 30

8 − 5 = 3

30 + 3 = 33



答：还剩下 ____ 元钱。

2. 算一算。

58 − 24 = ___	36 − 25 = ___	53 − 22 = ___	49 − 24 = ___
57 − 25 = ___	46 − 24 = ___	64 − 23 = ___	48 − 25 = ___
56 − 26 = ___	56 − 23 = ___	75 − 24 = ___	47 − 26 = ___

微信公众号：电子课本大全

3.



减法也可以用竖式计算！

43−18=？

个位上3减8不够，怎么办？



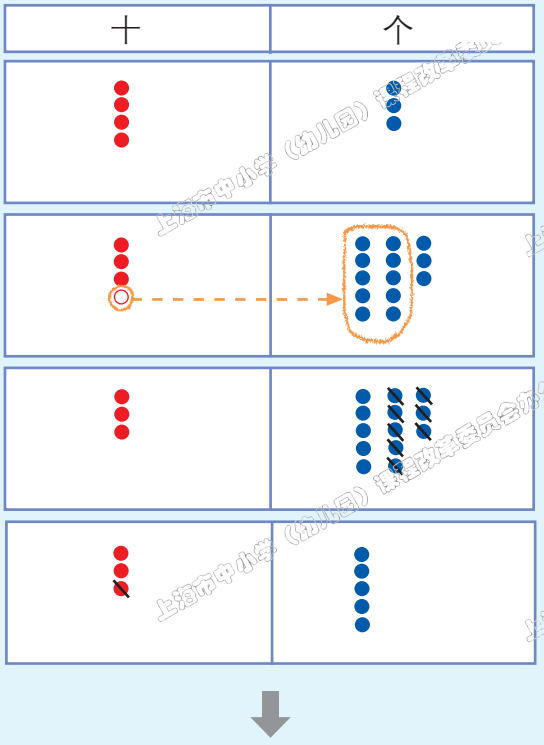

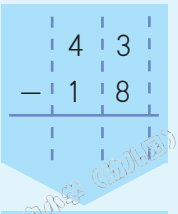

相同数位要对齐。

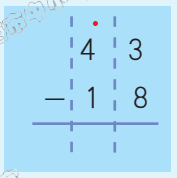

个位的计算：
因为3减8不够，
所以从十位退1，
13−8=5。

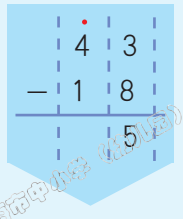

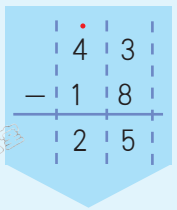

十位的计算：
因为已退了1，
所以十位上是3，
3−1=2。

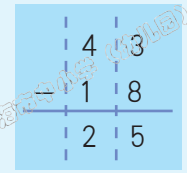

43−18=25

做减法时：
1.相同数位要对齐；
2.从个位算起；
3.个位不够减时，从十位退1作10。



微信公众号：电子课本大全

4.



	(1)		7	2		(2)		4	6	
		−	3	5			−	2	8	
				7					8	

	(3)		5	4		(4)		4	6		(5)		9	0		(6)		8	5	
		−	3	7			−	3	8			−	1	9			−	5	8	

5. 计算。

2 5	4 3	9 0	7 5	6 2
− 1 9	− 2 7	− 3 5	− 2 6	− 2 6

6.



7 2	5 1	4 2	7 0
− 4 8	− 2 8	− 2 6	− 2 5
3 4	3 7	2 8	5 5

7. 用竖式计算。

52 − 35	63 − 29	87 − 48	41 − 19
74 − 27	93 − 68	52 − 16	72 − 33
40 − 24	70 − 56	80 − 48	50 − 31
26 − 18	54 − 45	73 − 67	90 − 88

上海市中小学（幼儿园）课程改革委员会办公室

微信公众号：电子课本大全

8. 列式并计算。


28元


67元


15元


78元


12元


42元


34元




29元


88元

买1条  ，付50元，要找回多少元钱？



我有84元，买1个  ，还剩多少元钱？



我有96元，买1双  后，还剩多少元钱？



买1个  和1双  一共用了80元，1个  卖多少元钱？



我有73元，要买1件上面的物品，可以买什么？请一一标出，分别还剩下多少元钱？



微信公众号：电子课本大全

连加、连减及加减混合

连加

1.



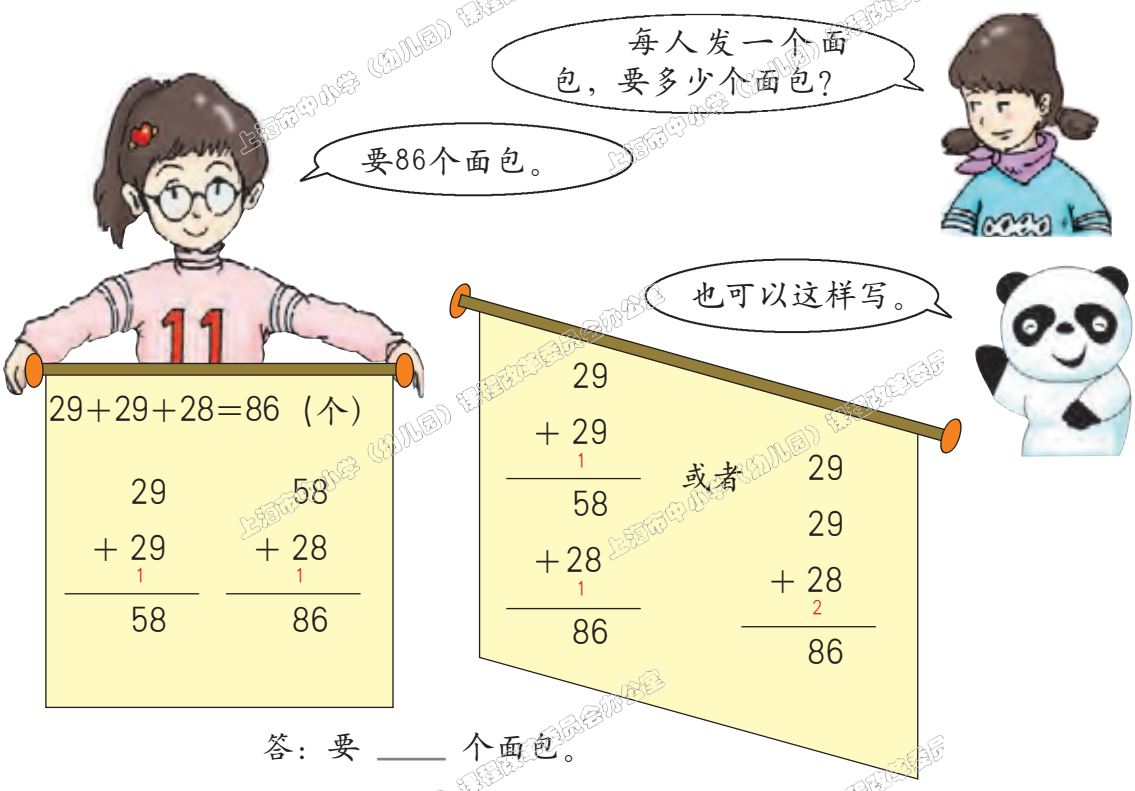

答：要 ____ 个面包。

2. 计算。

37	23	7	15
26	18	35	32
+ 19	+ 27	+ 28	+ 29

3. 用竖式计算。

33+15+21	22+5+31	49+16+24
14+23+ 6	26+29+14	39+29+24

微信公众号：电子课本大全

连减

1.



买28个巧克力面包，19个草莓面包。



总共86人，还缺多少个面包？



还缺39个面包。

也可以这样写。



86－28－19＝39（个）

$$\begin{array}{r} 86 \\ -\ 28 \\ \hline 58 \end{array} \qquad \begin{array}{r} 58 \\ -\ 19 \\ \hline 39 \end{array}$$

$$\begin{array}{r} 86 \\ -\ 28 \\ \hline 58 \\ -19 \\ \hline 39 \end{array}$$

答：还缺 ____ 个面包。

2. 计算。

$$\begin{array}{r} 92 \\ -\ 19 \\ \hline (\quad) \\ -26 \\ \hline \end{array} \qquad \begin{array}{r} 51 \\ -\ 28 \\ \hline (\quad) \\ -12 \\ \hline \end{array} \qquad \begin{array}{r} 75 \\ -\ 34 \\ \hline (\quad) \\ -27 \\ \hline \end{array} \qquad \begin{array}{r} 84 \\ -\ 48 \\ \hline (\quad) \\ -\ 7 \\ \hline \end{array}$$

3. 用竖式计算。

64－ 7－12　　87－39－28　　56－17－15

78－16－48　　82－37－23　　73－42－ 8

微信公众号：电子课本大全

加减混合

1.



共有女生32人，男生有多少人？





一共有男生25人。

29+28−32=25（个）

$$\begin{array}{r} 29 \\ +\ 28 \\ \hline 57 \end{array} \qquad \begin{array}{r} 57 \\ -\ 32 \\ \hline 25 \end{array}$$

也可以这样写。



$$\begin{array}{r} 29 \\ +\ 28 \\ \hline 57 \\ -\ 32 \\ \hline 25 \end{array}$$

答：一共有男生＿＿＿＿人。

2. 计算。

48	78	64	39
＋33	−49	＋25	−13
（　）	（　）	（　）	（　）
−16	＋30	−58	＋47

3. 用竖式计算。

49−28+18	34+ 9−21	37+15−27
38+24−18	52−29+8	43− 7+16

微信公众号：电子课本大全

小练习(2)

1. 用竖式计算。

37＋20	43＋54	28＋46
52－30	98－45	73－46
34＋25＋18	78－16－35	27＋28－39
39＋ 6＋48	65－38－ 9	52－29＋17

2. 一年级（1）班有39人，一年级（2）班有35人，两个班总共有多少人？



3. 一年级（3）班有学生37人，男同学有18人，女同学有多少人？



4. 小巧昨天看了28页书，今天又看了17页。小巧两天看了多少页？



5. 小亚有70张彩色纸，用掉23张后，还剩下多少张？



微信公众号：电子课本大全

五、
几何小实践



上海市中小学（幼儿园）课程改革委员会办公室

微信公众号：电子课本大全

左与右

1. 我的左右。

运动场



①左？右？　我在吃饭。



□手　□手

我穿上了鞋。



□脚　□脚

②填一填。



□脚



□脚



□耳

2. 我的左边、右边。



微信公众号：电子课本大全

3. 小丁丁、小巧的左右。



①小丁丁向左看到什么？向右看到什么？

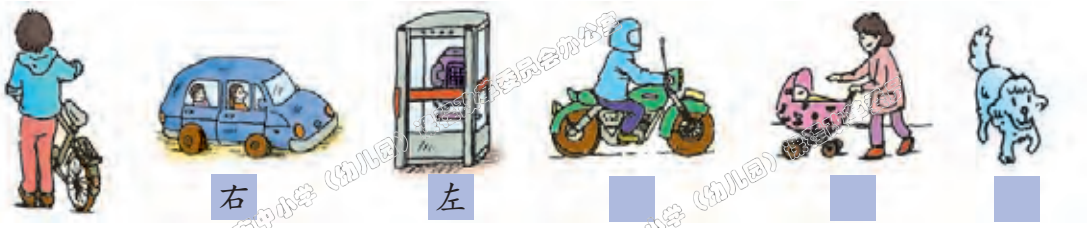

②小巧向左看到什么？向右看到什么？



微信公众号：电子课本大全

上、中、下，左、中、右

1.

小猫的  （眼睛）在  （鼻子）的上边，  （嘴）在  （鼻子）的下边，  （鼻子）在  （眼睛）和  嘴）的中间。

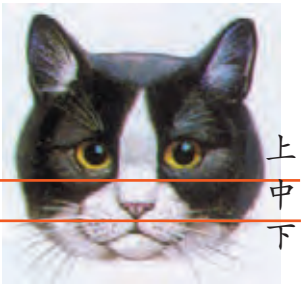

2. 看一看，他们住在哪儿？



上海市中小学《幼儿园》课程改革委员会

微信公众号：电子课本大全

①谁住在 里？



②这些孩子住在哪儿？涂上颜色。



③看一看，他们住在哪儿？

哪几个人住在中间一层？ 小胖、外婆、亮亮

哪几个人住在下面一层？

哪几个人住在上面一层？

哪几个人住在右面的房间里？

哪几个人住在左面的房间里？

哪几个人住在康康隔壁的房间里？

哪几个人住在小丁丁下面的房间里？

哪几个人住在小胖上面的房间里？

哪几个人住在小淘气隔壁的房间里？

微信公众号：电子课本大全

长度比较

1. 比一比。



小亚、小巧、小胖在跳绳，谁的绳子最长？

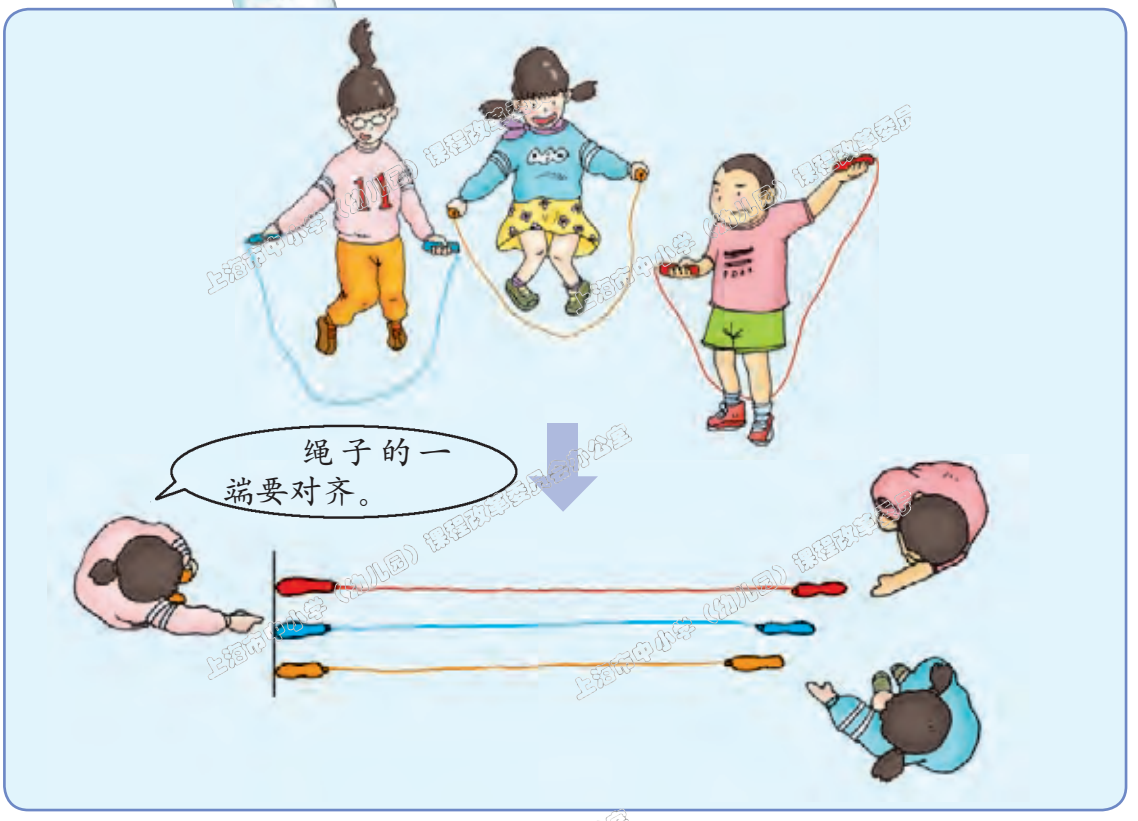

2.



哪一面旗子最高？

谁最高？谁最矮？按身高将名次排出来。







（　）（　）（　）（　）

微信公众号：电子课本大全

3. 拿出你所有的铅笔，比一比，哪一支最长？

4.







5.



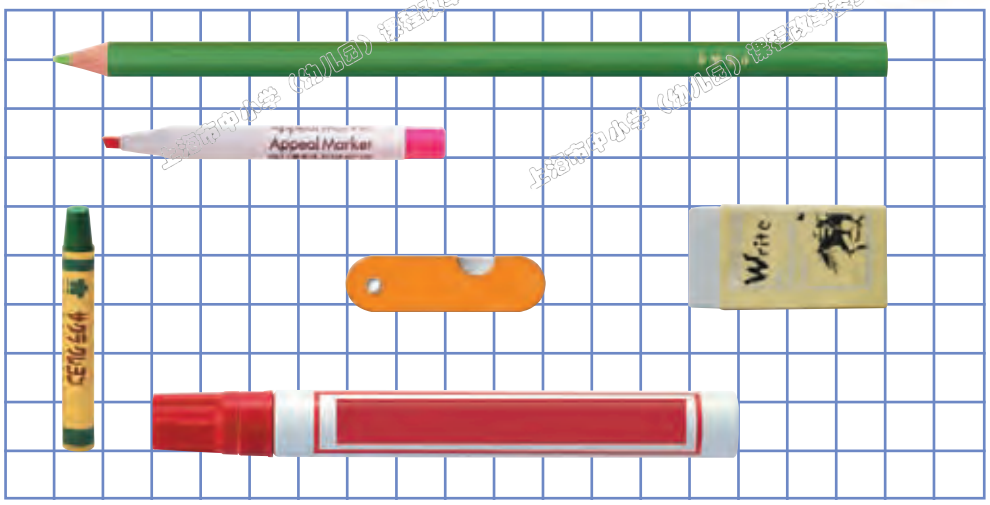

上海市中小学（幼儿园）课程改革委员会办公室

微信公众号：电子课本大全

1.





小胖用脚步来量教室的长和宽，小巧用脚底来量橱的长，小丁丁用  来量桌子的长和宽，现在我们一起来量。

用  来量课桌。

怎么量出的结果不一样？





微信公众号：电子课本大全

2.



用尺量就行了！



1米=100厘米　　1m=100cm



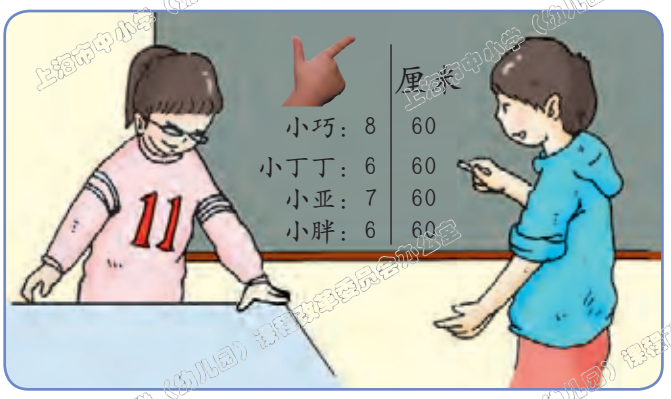

现在结果就一样了！



上海市中小学《幼儿园》课程改革委员会办公室

微信公众号：电子课本大全

3.



用卷尺来量！小丁丁、小亚在作示范呢！

书桌

长 _____ cm

宽 _____ cm

高 _____ cm



数学课本

长 _____ cm　宽 _____ cm

练习册

长 _____ cm　宽 _____ cm

座椅

长 _____ cm　宽 _____ cm

4.



用尺量。

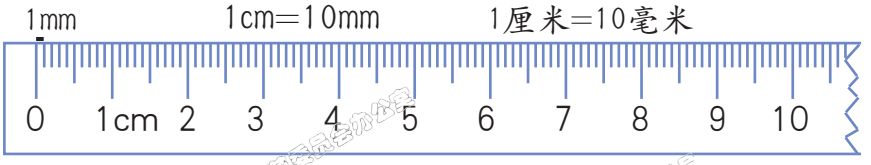

把尺的“0”刻度对准积木的左端，再看积木的右端对着几。



这是2厘米。



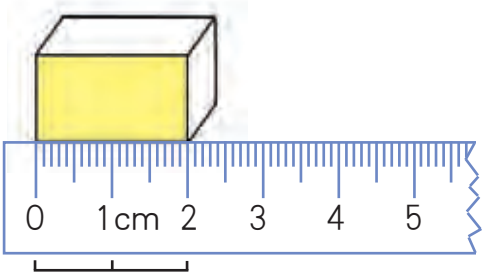

微信公众号：电子课本大全



哪一种量法对？



(　　)

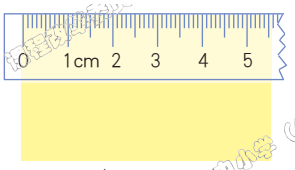

(　　)

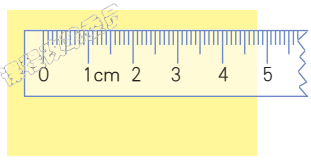

(　　)

5.



量一量！

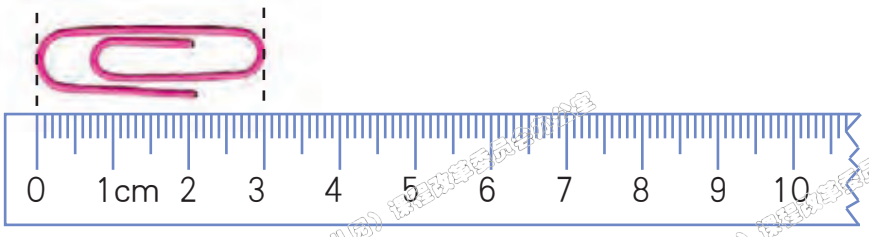

____cm____mm

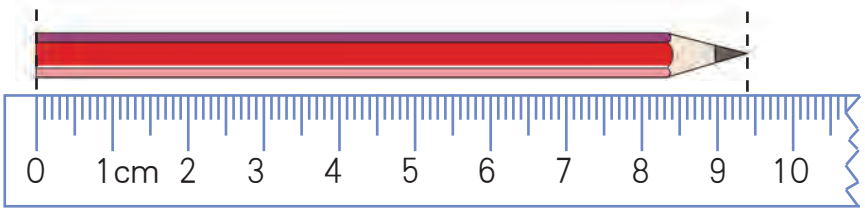

____cm____mm

微信公众号：电子课本大全

线段

1.



这些都是线段。

线段是可以用直尺量出长度的。





2. 量线段。



____cm____mm　　____cm____mm　　____cm____mm

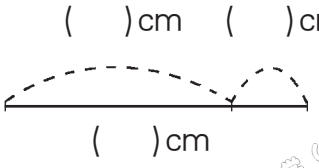

(　　)cm　(　　)cm

(　　)cm



(　　)cm

(　　)cm

(　　)cm

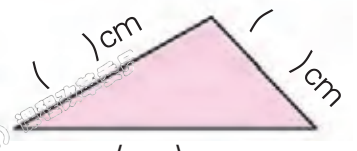

(　　)cm　(　　)cm

(　　)cm

3. 画一条3厘米长的线段。

从刻度“0”起画到刻度“3”，就是3厘米。

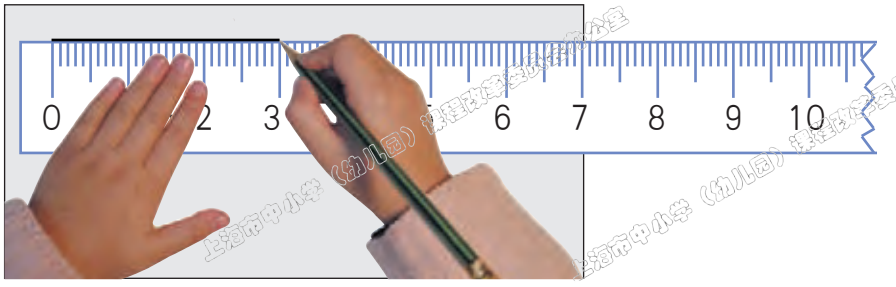



4. 哪一条长？先看一看，再量一量。



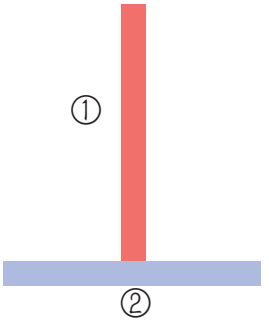

微信公众号：电子课本大全

5.



小熊手中栅栏长60厘米，小兔手中栅栏长40厘米。合起来长多少？



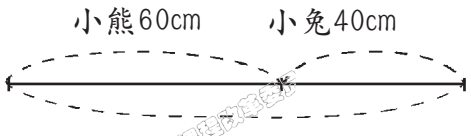

合起来（　　）cm

60cm＋40cm＝（　　）cm

6.

70cm＋20cm＝□cm	30cm＋16cm＝□cm
60cm＋20cm＝□cm	63cm－48cm＝□cm
60cm－30cm＝□cm	48cm＋19cm＝□cm
70cm－40cm＝□cm	77cm－44cm＝□cm

7.

7mm＋8mm＝□mm	20mm＋15mm＝□mm	52mm－48mm＝□mm
8mm－5mm＝□mm	18mm＋17mm＝□mm	63mm－42mm＝□mm

8.

5 m＋9 m＝□m	4 m＋7 m＝□m	3 m＋11 m＝□m	7 m＋12 m＝□m
17 m－3 m＝□m	14 m－8 m＝□m	17 m－12 m＝□m	13 m－ 7 m＝□m

9. 量一量，算一算。

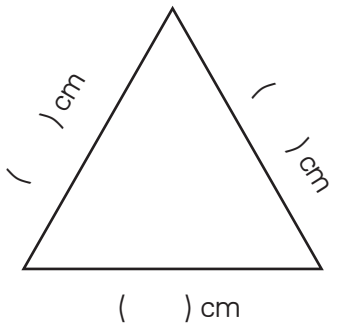

总长＝（　　）cm＋（　　）cm＋（　　）cm

＝（　　）cm

微信公众号：电子课本大全

六、
整理与提高



微信公众号：电子课本大全

百数表



1.



行数	列数 1	2	3	4	5	6	7	8	9	10
1	1	2	3	4	5	6	7	8	9	10
2	11	12	13	14	15	16	17	18	19	20
3	21	22	23	24	25	26	27	28	29	30
4	31	32	33	34	35	36	37	38	39	40
5	41	42	43	44	45	46	47	48	49	50
6	51	52	53	54	55	56	57	58	59	60
7	61	62	63	64	65	66	67	68	69	70
8	71	72	73	74	75	76	77	78	79	80
9	81	82	83	84	85	86	87	88	89	90
10	91	92	93	94	95	96	97	98	99	100



(1)从1出发，2个一数，并涂红色。

1	2	3	4	5	6	7	8	9	10
11	12	13	14	15	16	17	18	19	20
21	22	23	24	25	26	27	28	29	30
31	32	33	34	35	36	37	38	39	40
41	42	43	44	45	46	47	48	49	50
51	52	53	54	55	56	57	58	59	60
61	62	63	64	65	66	67	68	69	70
71	72	73	74	75	76	77	78	79	80
81	82	83	84	85	86	87	88	89	90
91	92	93	94	95	96	97	98	99	100

(2)从3出发，3个一数，并涂蓝色。

1	2	3	4	5	6	7	8	9	10
11	12	13	14	15	16	17	18	19	20
21	22	23	24	25	26	27	28	29	30
31	32	33	34	35	36	37	38	39	40
41	42	43	44	45	46	47	48	49	50
51	52	53	54	55	56	57	58	59	60
61	62	63	64	65	66	67	68	69	70
71	72	73	74	75	76	77	78	79	80
81	82	83	84	85	86	87	88	89	90
91	92	93	94	95	96	97	98	99	100

微信公众号：电子课本大全

2. 填一填。

(1)在右表中按顺序填数。

(2)78前面一个数是____，后面一个数是____。88在____和____的中间。

(3)根据右表各数所在的位置，把下图中缺的数填上。

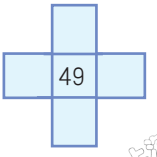



1									10
	12							19	
		23					28		
			34			37			
				45	46				
				55	56				
			64			67			
		73					78		
	82							89	
91									100

3. 在百数表上找数并涂色。

行	2	2	3	3	4	4	4	4	5	5	7
列	4	7	3	8	2	4	7	9	5	6	4
数	14										

行	7	7	7
列	5	6	7
数			



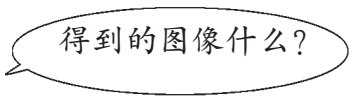

行数　　百数表

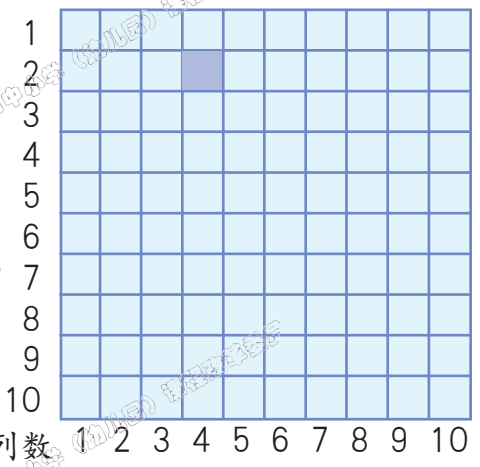

4. 算一算，想一想。

1	2	3	4	5	6	7	8	9	10
11	12	13	14	15	16	17	18	19	20
21	22	23	24	25	26	27	28	29	30
31	32	33	34	35	36	37	38	39	40
41	42	43	44	45	46	47	48	49	50
51	52	53	54	55	56	57	58	59	60
61	62	63	64	65	66	67	68	69	70
71	72	73	74	75	76	77	78	79	80
81	82	83	84	85	86	87	88	89	90
91	92	93	94	95	96	97	98	99	100

1	2	3
11	12	13
21	22	23

11+12+13=36

2+12+22=□

1+12+23=□

3+12+21=□

16	17	18
26	27	28
36	37	38

26+27+28=□

17+27+37=□

16+27+38=□

18+27+36=□

4条红线上的数分别相加，和一样吗？



微信公众号：电子课本大全

两位数加减法复习

两位数加法

1.



那么多题，我来分类！

熊猫，没分完！



22＋10　　25＋32　　46＋18　　34＋ 7　　17＋36　　6＋18　　25＋ 3　　4＋92

	两位数加一位数	两位数加两位数
不进位	25＋3	22＋10
进　位	34＋7	46＋18

2. 不同的计算方法。

(1)不进位。

22＋13＝□







小巧的算法：

22＋13＝□

22＋10＝32

32＋ 3＝35

小胖的算法：

22＋13＝□

22＋ 3＝25

25＋10＝35

22＋13＝□

20＋10＝30

2＋ 3＝ 5

30＋ 5＝35



用你喜欢的方法做。



61＋23＝□

38＋21＝□

43＋43＝□

上海市小学（幼儿园）课程改革委员会办公室

微信公众号：电子课本大全

(2)进位。

$36+17=\square$



有那么多算法，说一说是怎么算的！

$36+17=\square$

$30+10=40$

$6+7=13$

$40+13=53$

$36+17=\square$

$36+10=46$

$46+7=53$

$36+17=\square$

$36+4=40$

$40+13=53$

$36+17=\square$

$\begin{array}{r} 36 \\ +\ 17 \\ \hline 53 \end{array}$

$36+17=53$



用你喜欢的方法做！

①

$35+16=\square$

$46+25=\square$

$17+55=\square$

$24+17=\square$

②

$35+26=\square$

$\begin{array}{r} 35 \\ +\ 26 \\ \hline \end{array}$

$46+17=\square$

$37+48=\square$

$69+22=\square$

微信公众号：电子课本大全

3. 小胖和小巧谁的算式是对的？用竖式计算34+8。



$$\begin{array}{r} 34 \\ +\ 8 \\ \hline \end{array}$$

$$\begin{array}{r} 34 \\ +\ \ 8 \\ \hline \end{array}$$



4. 从右边选出合适的话，把序号填入画中。



$$\begin{array}{r} 46 \\ +\ 27 \\ \hline 3 \end{array}$$



$$\begin{array}{r} 46 \\ +\ \overset{1}{2}7 \\ \hline 3 \end{array}$$



$$\begin{array}{r} 46 \\ +\ \overset{1}{2}7 \\ \hline 73 \end{array}$$

①向十位进1。

②6+7=13，在个位上写3。

③4＋2＝6，加上进位的1，总共是7。

5.* 

想一想，方框中填几？

$$\begin{array}{r} \square 0 \\ +\ 2\square \\ \hline 47 \end{array}$$

$$\begin{array}{r} \square 4 \\ +\ 3\square \\ \hline 87 \end{array}$$

$$\begin{array}{r} \square \\ +\ 32 \\ \hline 37 \end{array}$$

$$\begin{array}{r} 36 \\ +\ 2\square \\ \hline \square 8 \end{array}$$

$$\begin{array}{r} \square 6 \\ +\ 2\square \\ \hline 61 \end{array}$$

$$\begin{array}{r} 21 \\ +\ \square 9 \\ \hline 8\square \end{array}$$

$$\begin{array}{r} 4\square \\ +\ 27 \\ \hline \square 3 \end{array}$$

$$\begin{array}{r} 4 \\ +\ 6\square \\ \hline \square 3 \end{array}$$

微信公众号：电子课本大全

1.



那么多题，我来分类！

熊猫，没分完！



27 − 6　67 − 38　41 − 5　73 − 56　89 − 4　97 − 86　46 − 23　20 − 9

	两位数减一位数	两位数减两位数
不退位	27 − 6	46 − 23
退　位	41 − 5	73 − 56

2. 不同的计算方法。

(1) 不退位。

67 − 24 = □







小巧的算法：

67 − 24 = □

67 − 20 = 47

47 − 4 = 43

小胖的算法：

67 − 24 = □

67 − 4 = 63

63 − 20 = 43

67 − 24 = □

60 − 20 = 40

7 − 4 = 3

40 + 3 = 43

用你喜欢的方法做！



22 − 11 = ■　35 − 12 = ■　33 − 21 = ■

微信公众号：电子课本大全

(2)退位。

$43-25=\square$



有那么多算法，说一说是怎么算的！

$43-25=\square$

$43-20=23$

$23-5=18$

$43-25=\square$

$43-5=38$

$38-20=18$

$43-25=\square$

$43-3=40$

$40-20=20$

$20-2=18$

$43-25=\square$

$$\begin{array}{r} 4\ 3 \\ -\ 2\ 5 \\ \hline 1\ 8 \end{array}$$

$43-25=18$



用你喜欢的方法做！

①

$33-14=\square$

$45-26=\square$

$63-26=\square$

②

$54-39=\square$

$$\begin{array}{r} 5\ 4 \\ -\ 3\ 9 \\ \hline \end{array}$$

$42-28=\square$

$75-69=\square$

$85-66=\square$

微信公众号：电子课本大全

3.  小胖和小巧谁的算式是对的？用竖式计算85−7。



$$\begin{array}{r} 85 \\ -\ 7 \\ \hline \end{array}$$

$$\begin{array}{r} 85 \\ -\ 7 \\ \hline \end{array}$$



4. 从右边选出合适的话，把序号填入画中。



$$\begin{array}{r} 73 \\ -\ 19 \\ \hline \end{array}$$

①13−9=4，在个位上写4。

②向个位退1得到6，6−1=5。



$$\begin{array}{r} 73 \\ -\ 19 \\ \hline 4 \end{array}$$

③3减9不够减，从十位上借1作10。



$$\begin{array}{r} 73 \\ -\ 19 \\ \hline 54 \end{array}$$

5.*  想一想，方框中填几？

$$\begin{array}{r} 59 \\ -\ \square \\ \hline \square 2 \end{array} \qquad \begin{array}{r} 70 \\ -\ 5\square \\ \hline \square 0 \end{array} \qquad \begin{array}{r} \square 7 \\ -\ 2\square \\ \hline 34 \end{array} \qquad \begin{array}{r} 76 \\ -\ \square \\ \hline \square 9 \end{array}$$

$$\begin{array}{r} 84 \\ -\ 2\square \\ \hline \square 9 \end{array} \qquad \begin{array}{r} 40 \\ -\ \square 1 \\ \hline 9 \end{array} \qquad \begin{array}{r} \square 3 \\ -\ 2\square \\ \hline 27 \end{array} \qquad \begin{array}{r} 9\square \\ -\ \square 8 \\ \hline 42 \end{array}$$

微信公众号：电子课本大全

交换

1. 一共有多少枝郁金香？





一共有35枝。

14＋21＝35

$$\begin{array}{r} 14 \\ +\ 21 \\ \hline 35 \end{array} \qquad \begin{array}{r} 21 \\ +\ 14 \\ \hline 35 \end{array}$$

一共有35枝。



21＋14＝35

2. 哪一道题容易？

59＋ 2＝＿＿ 或 2＋59＝＿＿	
58＋ 3＝＿＿ 或 3＋58＝＿＿	
5＋66＝＿＿ 或 66＋ 5＝＿＿	
6＋65＝＿＿ 或 65＋ 6＝＿＿	

3. 算完后发现了什么？

67＋12＝＿＿	2＋98＝＿＿
13＋67＝＿＿	87＋ 3＝＿＿
67＋14＝＿＿	4＋76＝＿＿
15＋67＝＿＿	5＋65＝＿＿
16＋67＝＿＿	54＋ 6＝＿＿

4.



想一想，算一算！发现了什么？

24＋16＝＿＿	34＋50＝＿＿	29＋41＝＿＿	33＋61＝＿＿
22＋18＝＿＿	38＋46＝＿＿	32＋38＝＿＿	40＋54＝＿＿
20＋20＝＿＿	42＋42＝＿＿	35＋35＝＿＿	47＋47＝＿＿
18＋22＝＿＿	46＋38＝＿＿	38＋32＝＿＿	54＋40＝＿＿
16＋24＝＿＿	50＋34＝＿＿	41＋29＝＿＿	61＋33＝＿＿

微信公众号：电子课本大全

5. 推算。

9+ 4=____	4+19=____	7+ 6=____	8+35=____	49+47=____
14+ 9=____	19+14=____	27+26=____	38+35=____	9+47=____

6. 想一想，算一算！

3+ 3=____	8+ 8=____	5+ 6=____	3+ 4=____
13+13=____	18+18=____	16+15=____	13+ 4=____
23+23=____	28+28=____	15+26=____	14+13=____
33+33=____	28+38=____	26+25=____	23+14=____
43+33=____	38+38=____	35+36=____	24+23=____

7. 跳啊跳！跳到家！



18+ 5=23

29+ 7=36

44+ 9=53

23+ 6=29

36+ 8=44

目标 53

9+ 2=11

45+32=____

11+12=____

77+23=____

23+22=____

目标 100

27+ 9=____

54+ 9=____

63+ 9=____

36+ 9=____

45+ 9=____

目标 72

0+ 7=____

21+ 7=____

7+ 7=____

14+ 7=____

28+ 7=____

目标 35

微信公众号：电子课本大全

各人眼中的20

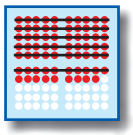

1.



小巧看见4个5

小丁丁看见2个10

小胖看见10个2

小亚看见5个4

2. 圈一圈。



2个10　　5个4　　10个2　　4个5

3.

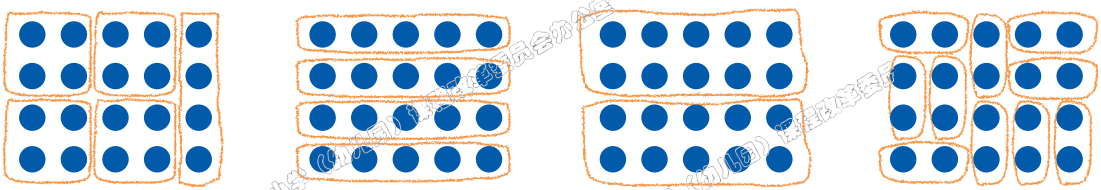

_____个4　　_____个5　　_____个10　　_____个2

4.



_____个_____　　_____个_____　　_____个_____

微信公众号：电子课本大全

小练习（3）



1. 小丁丁的郊游计划。



2. 一年级(1)班有31人，(2)班有28人，(3)班有29人。如果每辆客车能够乘坐50人，2辆客车够不够？

3. 在学校，每个人收多少钱？

在学校收的费用
往返车费： 4元1角
入场费： 5元8角

4. 有25元钱，能够乘坐什么项目？

5. 给你5元钱，可以买些什么？



2元　5角　1元5角　3元　8角　6角

微信公众号：电子课本大全



6. 二年级（1）班有46人，（2）班有48人，两个班一共有多少人？

7. 有27人在排队，又来了45人，现在有多少人在排队？

8. 小丁丁排在第70位，前面走了24人后，小丁丁排在第几位？

9. 三年级共有93人，其中女同学有46人，男同学有多少人？

10. 根据郊游的话题编写加法和减法的算式，并说说是怎样想的。

微信公众号：电子课本大全

说　明

本册教材根据上海市中小学（幼儿园）课程改革委员会制定的课程方案和《上海市中小学数学课程标准（试行稿）》编写，供九年义务教育一年级第二学期试用。

本教材由上海师范大学主持编写，经上海市中小学教材审查委员会审查准予试用。

本册教材的编写人员有：

九年义务教育阶段主编：项家祥

分册主编：黄建弘

特约撰稿人：黄建弘　佟　辉　陈春根　徐培菁　宋永福

欢迎广大师生来电来函指出教材的差错和不足，提出宝贵意见。上海市中小学（幼儿园）课程改革委员会办公室地址：上海市陕西北路500号（邮政编码：200041），联系电话：62560016（总机转）、52136338；出版社电话：62823025（总机转）。

声明　按照《中华人民共和国著作权法》第二十三条中，关于“为实施九年制义务教育和国家教育规划而编写出版教科书，除作者事先声明不许使用的外，可以不经著作权人许可，在教科书中汇编已经发表的作品片段或者短小的文字作品、音乐作品或单幅的美术作品、摄影作品，但应当按照规定支付报酬，指明作者姓名、作品名称”的有关规定，我们已尽量寻找原作者支付报酬。原作者如有关于支付报酬事宜可及时与出版社联系。

微信公众号：电子课本大全

上海市中小学（幼儿园）课程改革委员会办公室
上海市中小学（幼儿园）课程改革委员会
上海市中小学（幼儿园）课程改革委员会办公室
上海市中小学（幼儿园）课程改革委员会
上海市中小学（幼儿园）课程改革委员会办公室
上海市中小学（幼儿园）课程改革委员会
微信公众号：电子课本大全

经上海市中小学教材审查委员会
审查准予试用，准用号II-XB-2009006

责任编辑：韩　静

上海市中小学（幼儿园）课程改革委员会

九年义务教育课本
数　学
一年级第二学期
（试用本）
上海市中小学（幼儿园）课程改革委员会
上海世纪出版股份有限公司少年儿童出版社出版
（上海延安西路1538号　邮政编码200052）
上海新华书店发行　上海书刊印刷有限公司印刷
开本 787×1092　1/16　印张 4.75（练习部分印张 3.75）插页 2
2009年1月第1版　2013年11月第6次印刷
ISBN 978-7-5324-7859-0/G·2800
定价：8.40元（练习部分 2.95元，插页 0.41元）
上海市物价局价格审查批准文号：沪价商专（2008）68号
全国物价举报电话：12358

绿色印刷产品

ISBN 978-7-5324-7859-0
9 787532 478590 01>

此书如有印、装质量问题，请向本社调换
少年儿童出版社　　电话　62823025

微信公众号：电子课本大全