目录

一　餐厅里的数学问题 …2

1. 20 以内退位减法(一) …4

2. 20 以内退位减法(二) …6

练一练 一 …8

练一练 二 …10



3. 加法和减法 …13



练一练 三 …15

整理与应用 一 …17

智慧乐园 一 …21

二　游乐园里的数学问题 …22

4. 认识乘法 …24

5. 2 的乘法口诀 …27



练一练 四 …29

6. 100 以内的数(一)

——21 ~ 40 …31

7. 两位数加一位数 …34

练一练 五 …36

8. 3 的乘法口诀 …38

9. 4 的乘法口诀 …40

练一练 六 …42

练一练 七 …44

10. 乘加 …46



练一练 八 …48

整理与应用 二 …50

智慧乐园 二 …53

三　市场里的数 …54

11. 认识 100 与整十数 …56

12. 100 以内的数(二)

——41 ~ 100 …58



13. 找规律填数 …60

14. 比较数的大小 …62

练一练 九 …64

15. 不进位加法 …66

16. 不退位减法 …68

练一练 十 …70

整理与应用 三 …72



微信公众号：电子课本大全

四　商店里的计算 …74

17. 认识人民币 …76

18. 几元几角 …78



19. 进位加法(一) …80

练一练 十一 …82

练一练 十二 …84

20. 退位减法(一) …86

练一练 十三 …88

练一练 十四 …90

21. 乘减 …92



练一练 十五 …94

整理与应用 四 …96

智慧乐园 三 …98

五　教室里的测量 …99

22. 认识厘米 …100

23. 量长度 …102



24. 认识米 …104

练一练 十六 …106

智慧乐园 四 …109

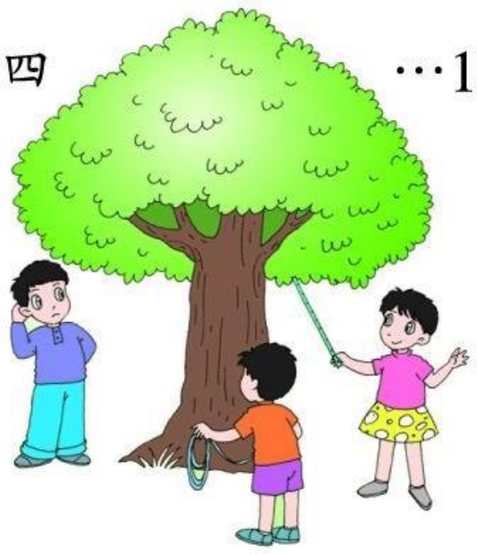

六　总复习 …110

[1] …110



[2] …111

[3] …113

[4] …114

[5] …116

[6] …117

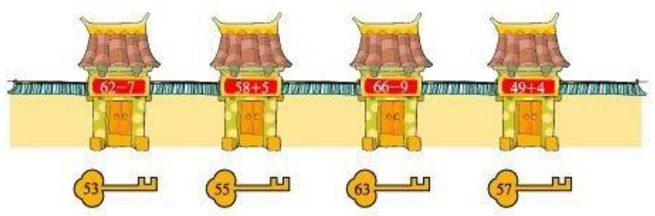

微信公众号：电子课本大全

一 餐厅里的数学问题

森林餐厅

每人一杯饮料。

快来！

14位

看一看，问一问。



还有几位没有下车？

取下6个杯子后，架子上还有几个杯子？



微信公众号：电子课本大全



你还能提出哪些数学问题？

微信公众号：电子课本大全

1 20以内退位减法(一)

取下6个杯子，还剩几个？



13 − 6 =

大家来讨论13 − 6的计算方法。

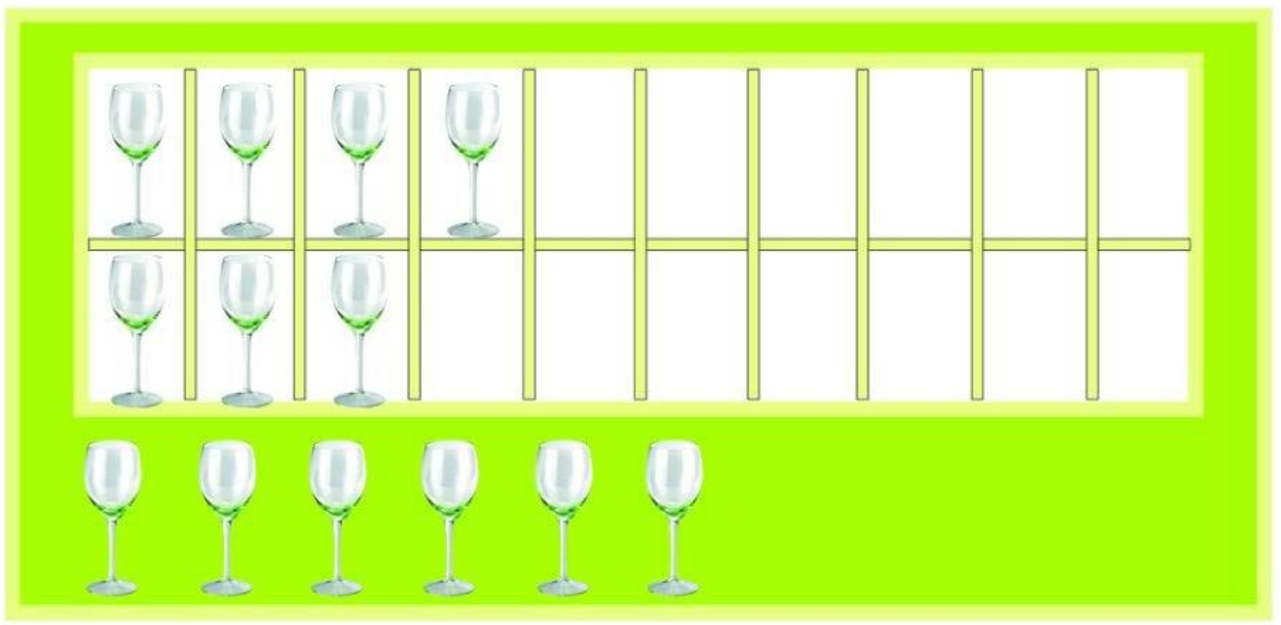

13 − 6 = 7

3　10

4



微信公众号：电子课本大全



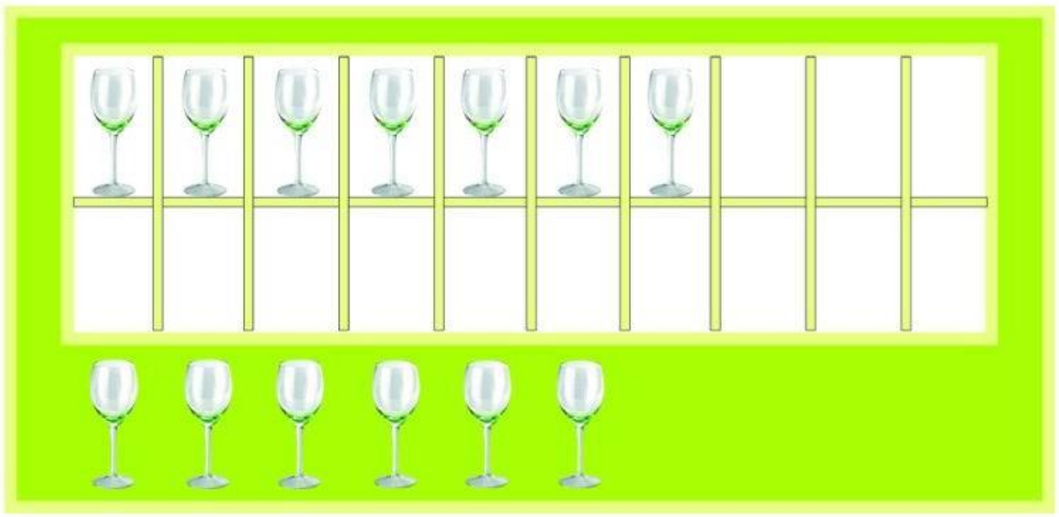

13 − 6 = 7

3　3

10

7



1. 说一说计算方法。

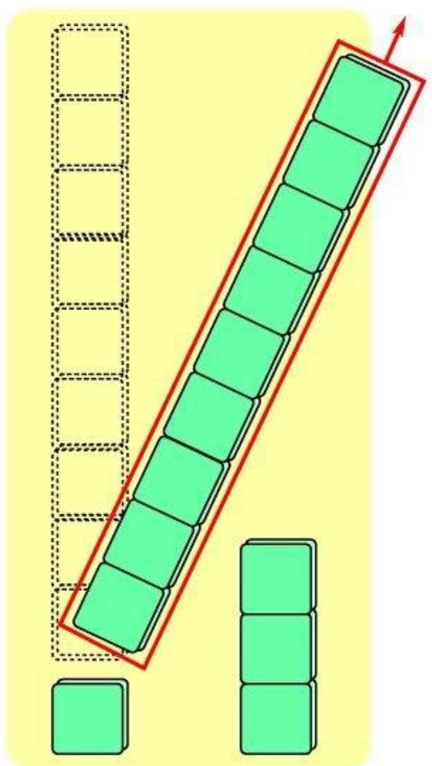

13 − 9

3　10

1

10 − 9 + □

15 − 8

□　10

□

10 − □ + □

2. 看图在□里填数。

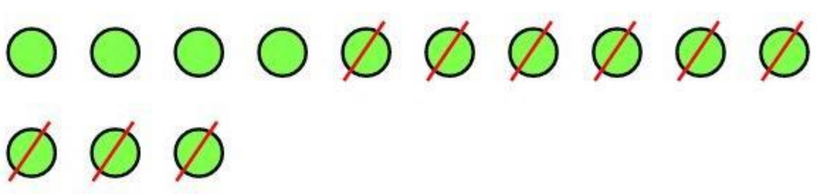

13 − 9 = □

16 − 9 = □

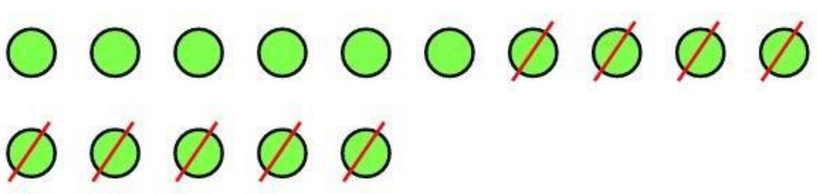

□ − 9 = □

□ − 9 = □

3. 比一比，算一算。

10 − 7 + 2

12 − 7

13 − 3 − 4

13 − 7

14 − 4 − 2

14 − 6

微信公众号：电子课本大全

2 20以内退位减法(二)

看一看，说一说。





？本

13本

$5 + \square = 13$(本)　　$13 - 5 = \square$(本)

8



$12 - 7 = \square$(个)

$7 + \boxed{5} = 12$

$12 - 7 = 5$



1. 算一算，比一比。

$2 + 9$	$5 + 8$	$6 + 9$
$11 - 9$	$13 - 8$	$15 - 6$

微信公众号：电子课本大全

2. 求图形表示的数。

★ + 7 = 13

★ = 13 − 7

★ = □

6 + ⬢ = 14

⬢ = □ − □

⬢ = □



1. 在□里填上正确的数。

2 + □ = 11　　7 + □ = 13　　9 + □ = 15

3 + □ = 11　　6 + □ = 13　　8 + □ = 15

4 + □ = 11　　5 + □ = 13　　7 + □ = 15

5 + □ = 11　　4 + □ = 13　　6 + □ = 15

2. □里该填什么数？

14 − 5 = □ → 5 + □ = 14

14 − 6 = □ → 6 + □ = 14

14 − 7 = □ → 7 + □ = 14

14 − 8 = □ → 8 + □ = 14

3. 看图写算式。

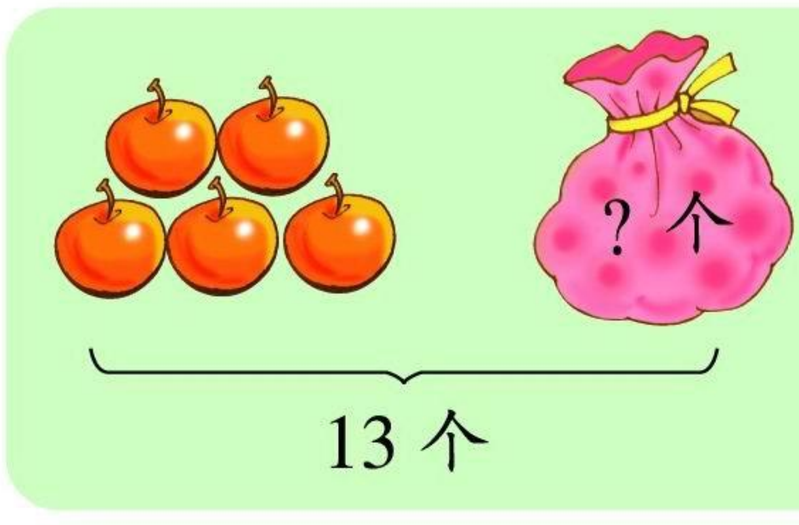

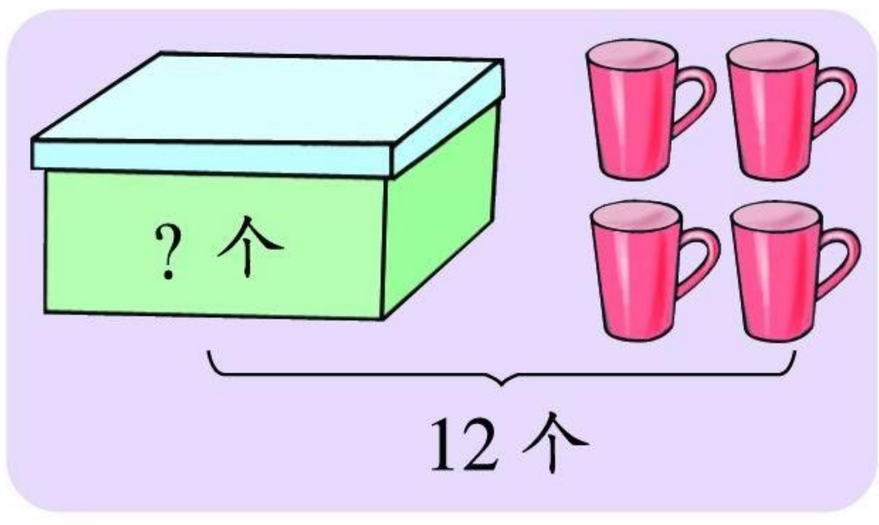

微信公众号：电子课本大全

练一练 一

1. 先看图说一说，再填空。

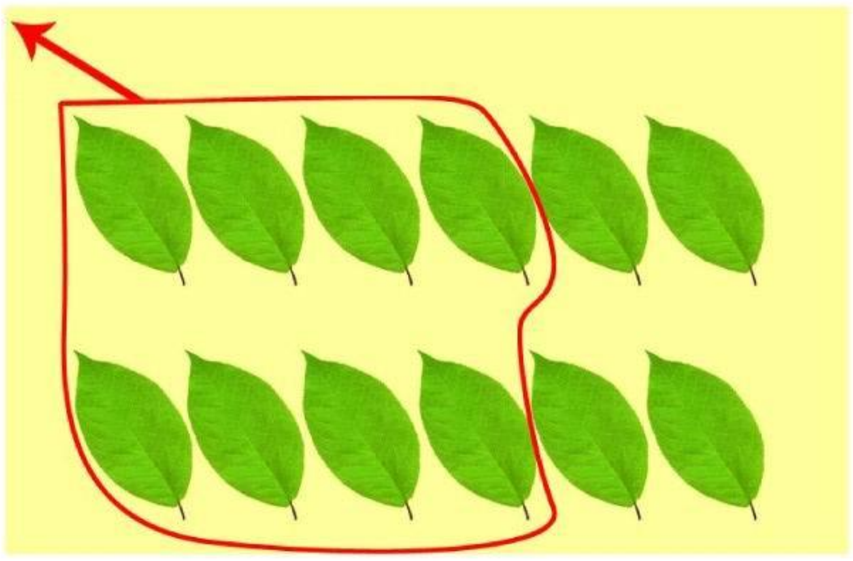

12 − □ = □（片）

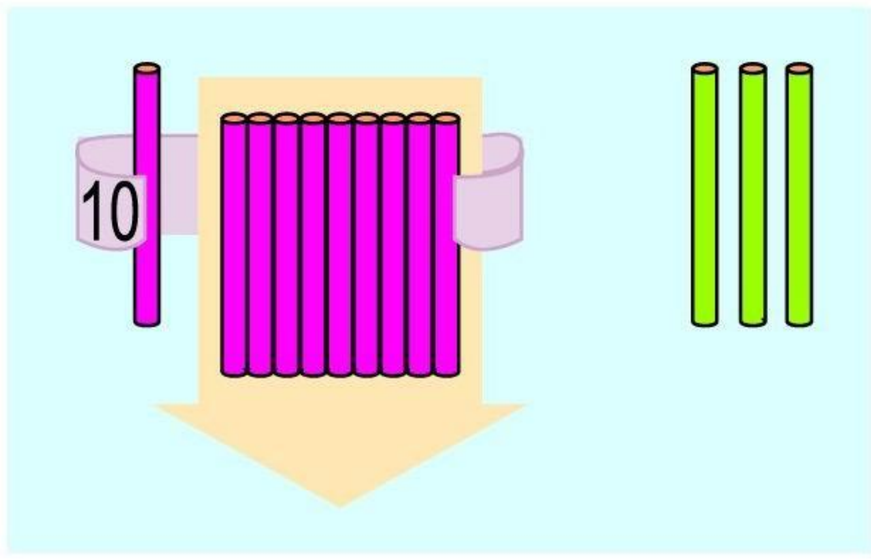

13 − □ = □（根）

2. 比一比，算一算。

8 + 3	9 + 5	11 − 9	16 − 9
11 − 8	14 − 9	18 − 9	15 − 8

3. 用你喜欢的方法计算。

12 − 9	14 − 8	11 − 9	12 − 8
13 − 9	16 − 8	14 − 9	17 − 8

4. 摘下变红的柿子，树上还剩多少个？



微信公众号：电子课本大全

5.

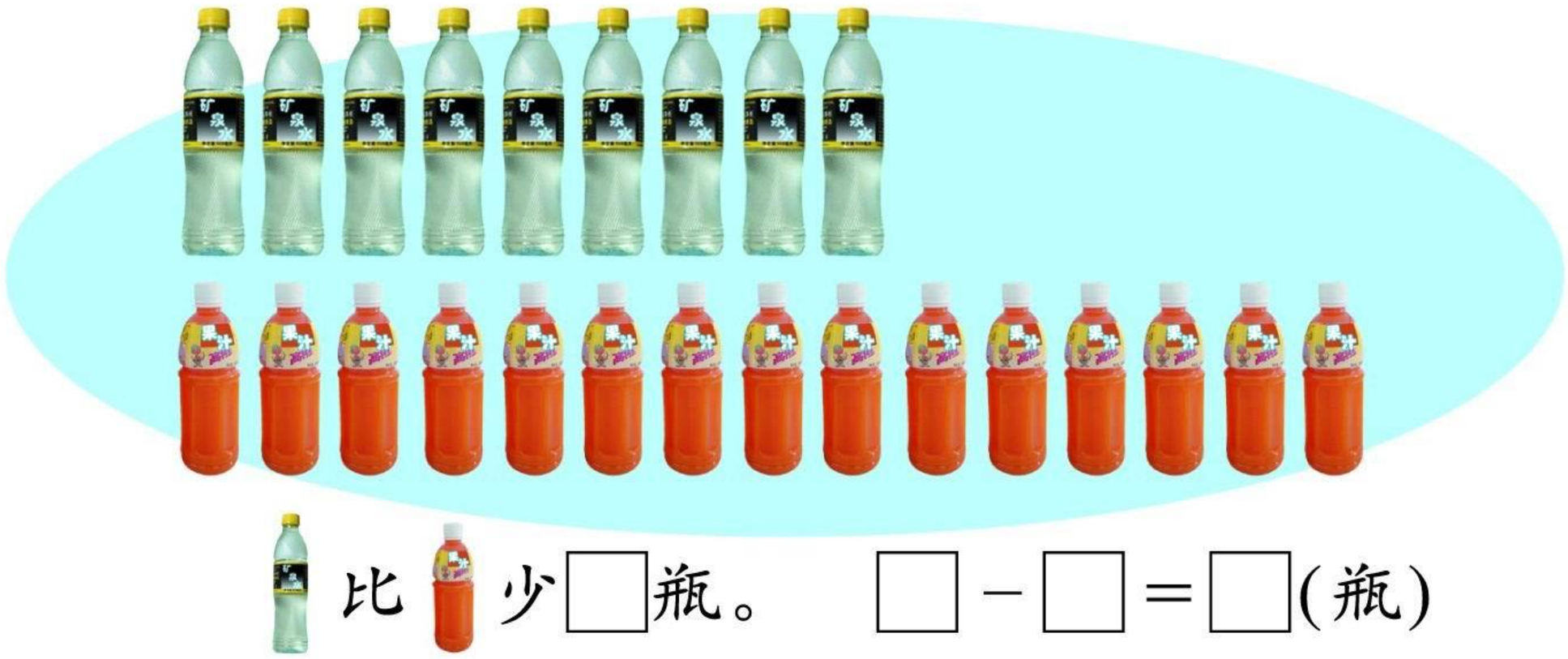

□比□少□瓶。　　□－□＝□(瓶)

6. 比一比，哪种多？多几个？

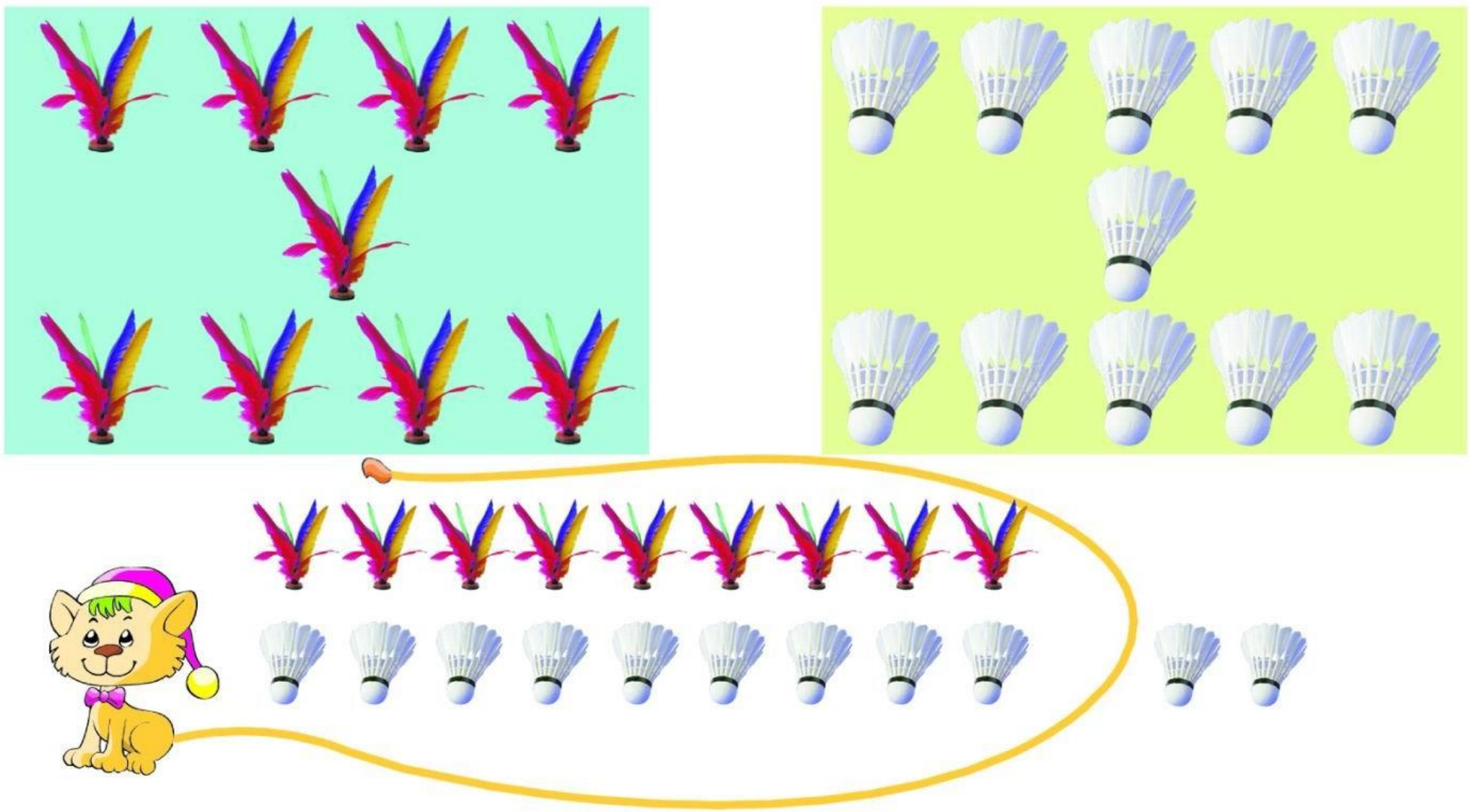

□－□＝□(个)

7. 在□里填小于20的数，你有哪些填法？

□－□＝5　　□－□＝8

8. 12－5与13－6的得数一样吗？你是怎么想的？

微信公众号：电子课本大全

练一练 二

[1]

1. 在□里填数。

$11 - 7 = \square$，$11 - 4 = \square$

$13 - 8 = \square$，$13 - 5 = \square$

$14 - 9 = \square$，$14 - 5 = \square$

$15 - 8 = \square$，$15 - 7 = \square$

$16 - 7 = \square$，$16 - 9 = \square$

$12 - 4 = \square$，$12 - 8 = \square$

2. 看谁算得对。

11 − 5	14 − 8	13 − 4	16 − 5	15 − 7
16 − 9	12 − 7	15 − 6	12 − 3	11 − 6
14 − 6	12 − 4	17 − 9	11 − 2	12 − 5

3. 看一看，填一填。

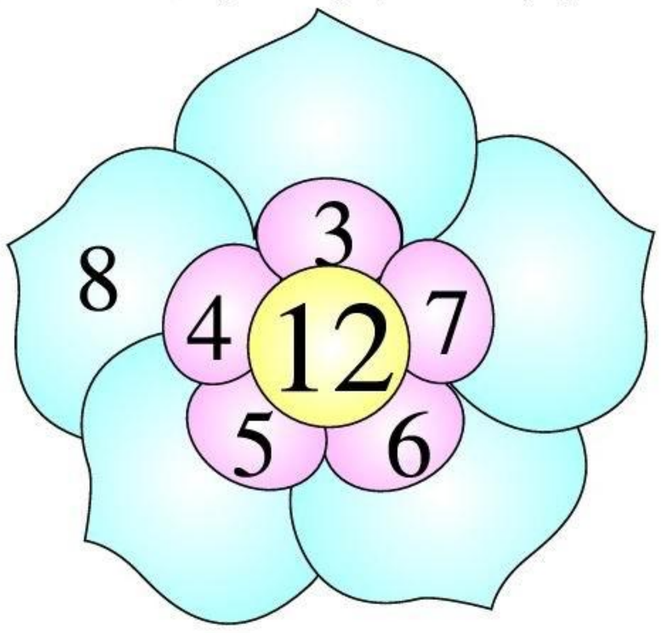

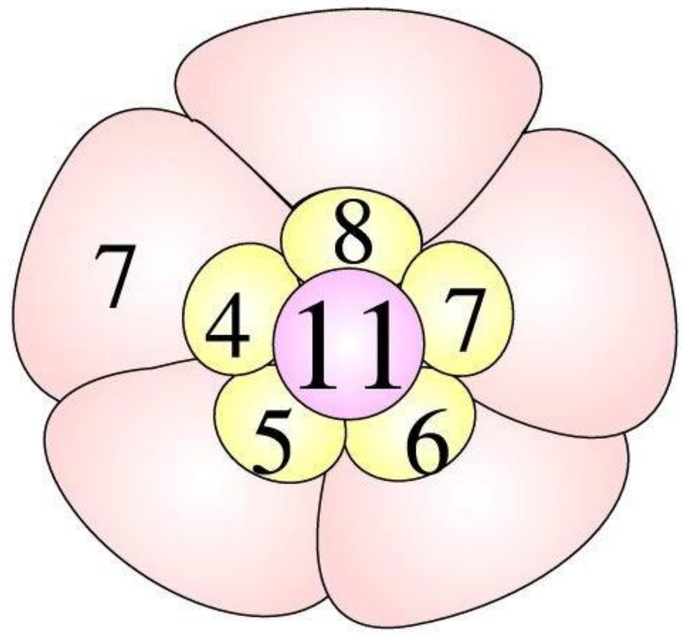

微信公众号：电子课本大全

4. 算一算，看一看，有什么规律？

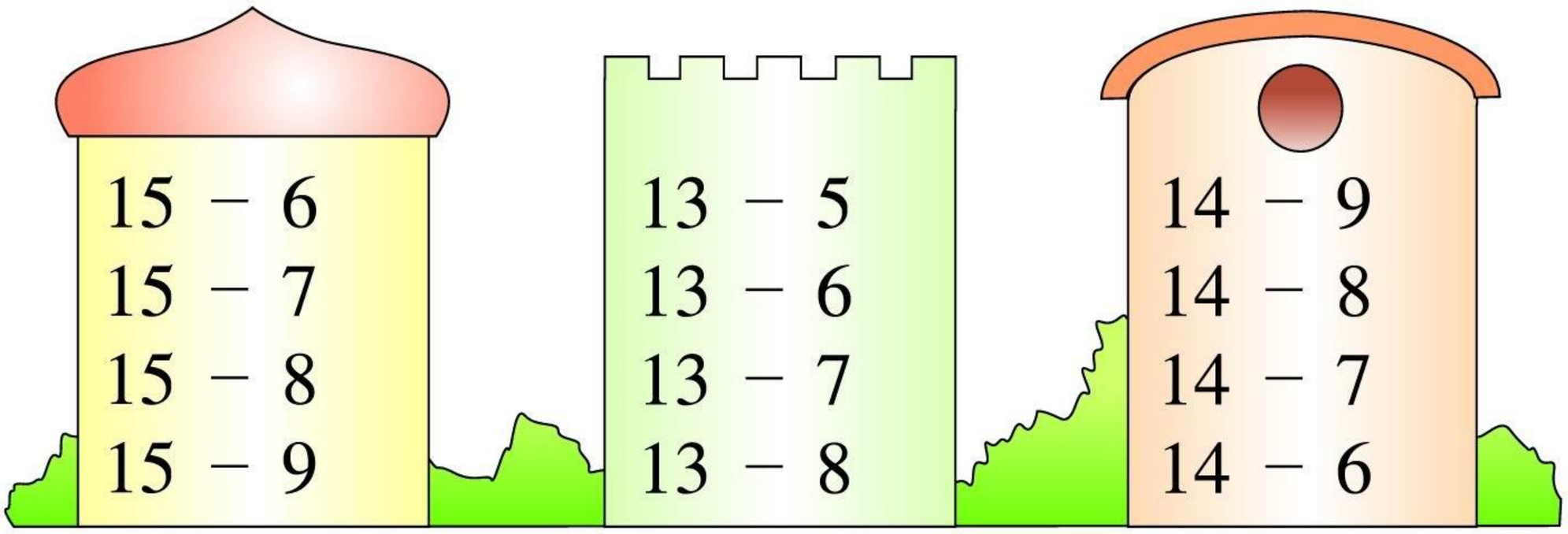

[2]

1. 说一说，填一填。



12 瓶

喝掉 7 瓶，

剩下□瓶。

□ − □ = □(瓶)



13 个



6 个



比  多□个。

□ − □ = □(个)

2. 算一算，填一填。

(1) 原来有15件，卖出7件后，还剩□件。

□ ○ □ = □(件)

(2) 有9件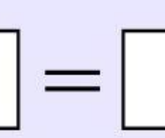和14件，比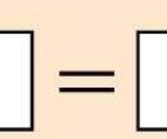多□件。

□ ○ □ = □(件)

微信公众号：电子课本大全

3. 12 个小朋友坐成一排，从左边数起，迪迪坐在第 5 个，迪迪的右边有几个人？



4. 佳佳有 13 个 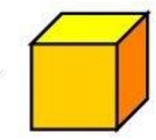，用来堆成 1 个右面这样的图形，还剩(　　)个 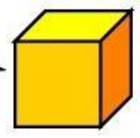。

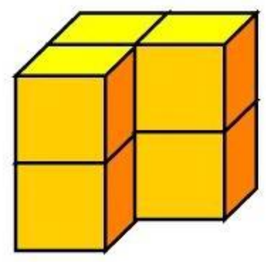

5. 求图形表示的数。

▲ + 9 = 13

▲ = □ − □

▲ = □

● + 8 = 15

● = □ − □

● = □

6.* 15 − 8 = ▲ + ★

▲、★表示的数分别有哪些可能？请填一填。

如果 ▲ = 2，那么 ★ = 5。



▲								
★								

你发现了什么规律？

带 * 的题目是选做题。

微信公众号：电子课本大全

加法和减法

1. 看图说意思。

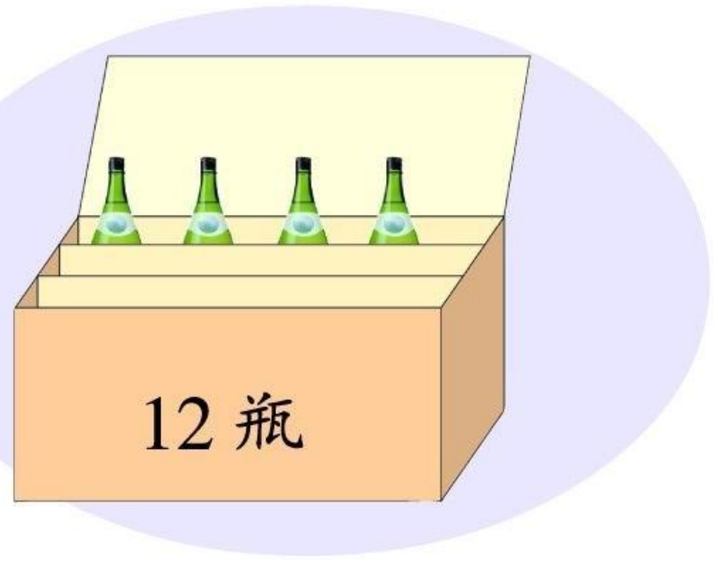



$4 + \square = 12$(瓶)

$12 - \square = 4$(只)

说说算式的意思，怎样算出□中的数？



$4 + \square = 12$

$12 - 4 = 8$

$12 - \square = 4$

$12 - 4 = 8$



你发现了什么？

2. 从圈中选数列算式。



6　7
9　16
13　15

$6 + 7 = 13$

$7 + 6 = 13$

$13 - 6 = 7$

$13 - 7 = 6$

$7 + 9 = 16$

$\square + \square = 16$

$16 - \square = \square$

$\square - \square = \square$



我选 6，7，13。

我选7, 9, 16。



微信公众号：电子课本大全

1. 填一填，说一说。

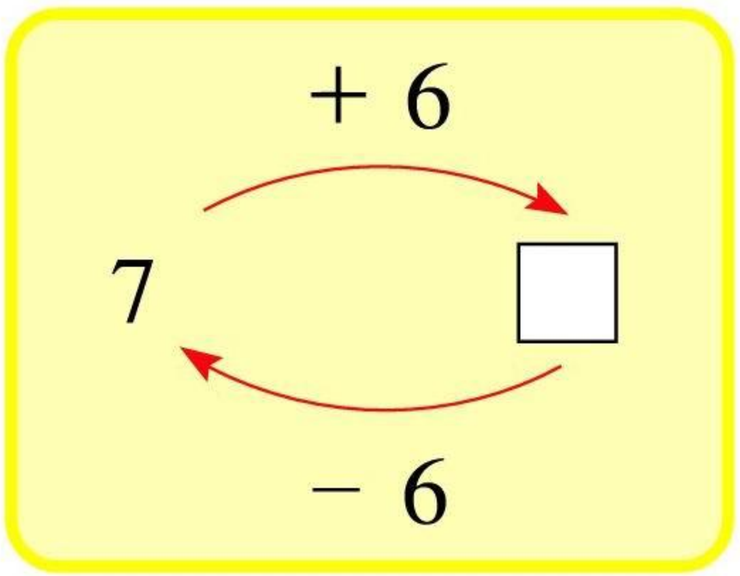

$7 + 6 = \square$

$\square - 6 = 7$

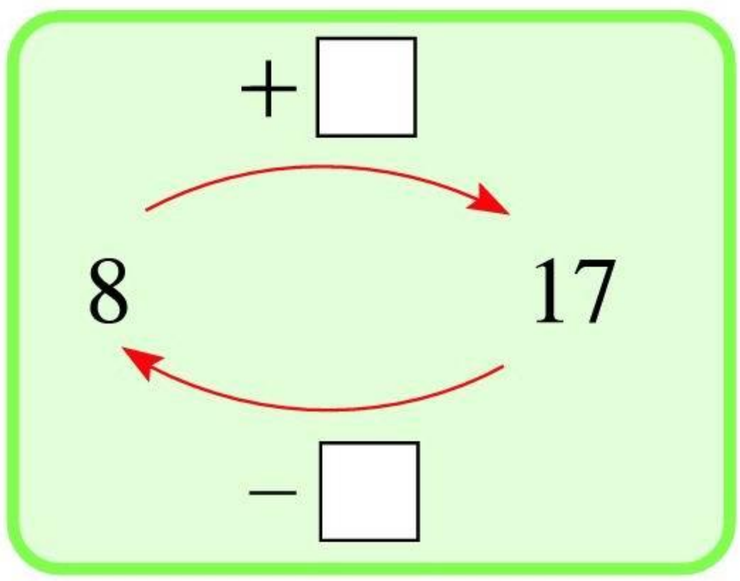

$8 + \square = 17$

$17 - \square = 8$

2. 照样子，改写式子。

★ − ● = 6 →

★ = ● + 6　　● = ★ − 6

▲ − ■ = 4 →

▲ =　　■ =

● + ▲ = 13 →

● =　　▲ =



1. 在□里填数。

□ − 4 = 9

4 + 9 = □

15 − □ = 8

15 − 8 = □

2. 下面的图形分别表示几？在□里填数，在○里填运算符号。

● − 7 = 9

● = □ ○ □

● = □

◆ − ◆ = 5

◆ = □ ○ □

◆ = □

微信公众号：电子课本大全

练一练 三

1. 在下面的□内填适当的数。

$2 + \square = 11$　　$19 - \square = 9$　　$\square - 6 = 8$

$\square - 7 = 9$　　$15 - \square = 7$　　$\square + 9 = 18$

2. 从圈中选三个数填算式。

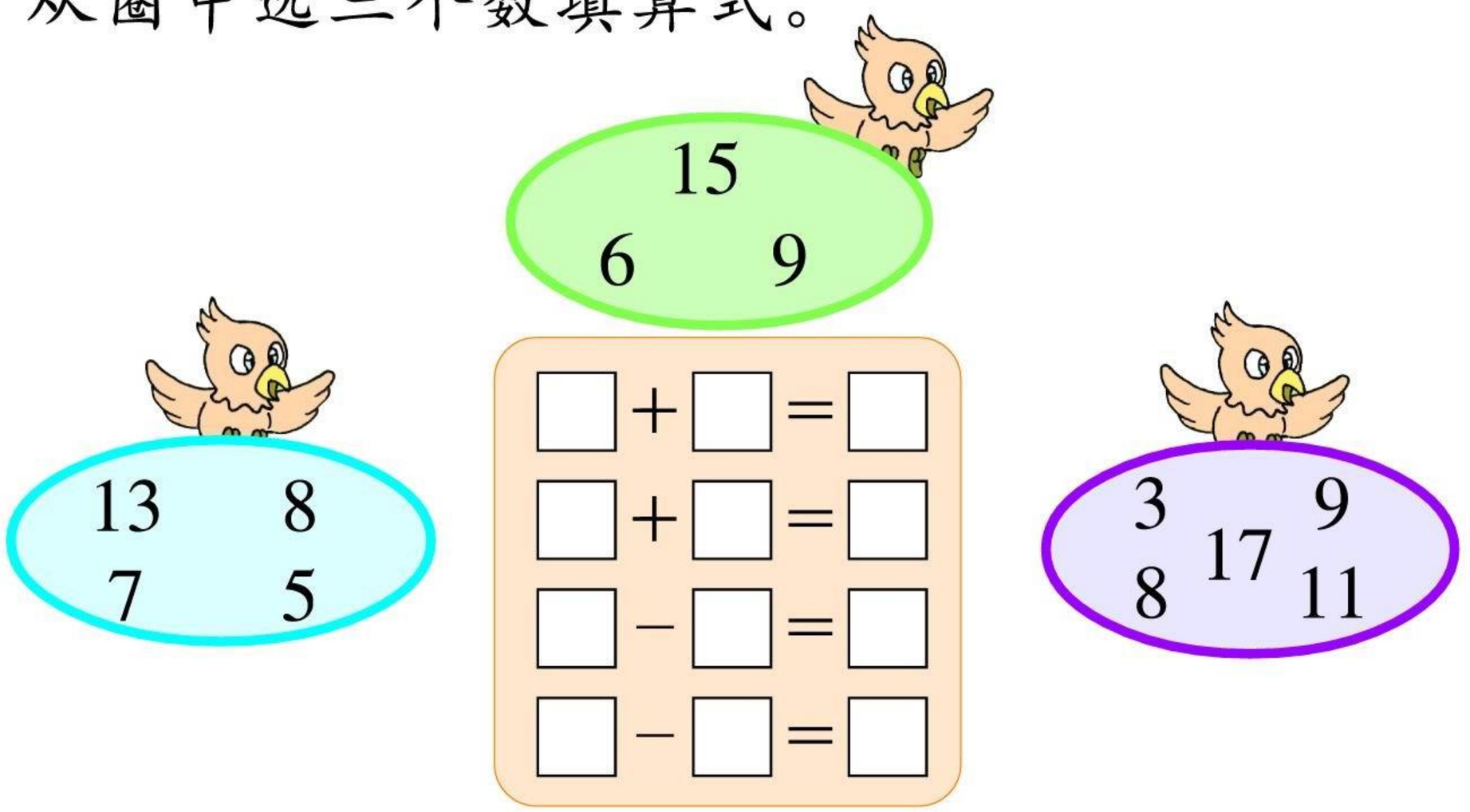

自己想三个数，写出相应的算式。

3. 看图列算式。

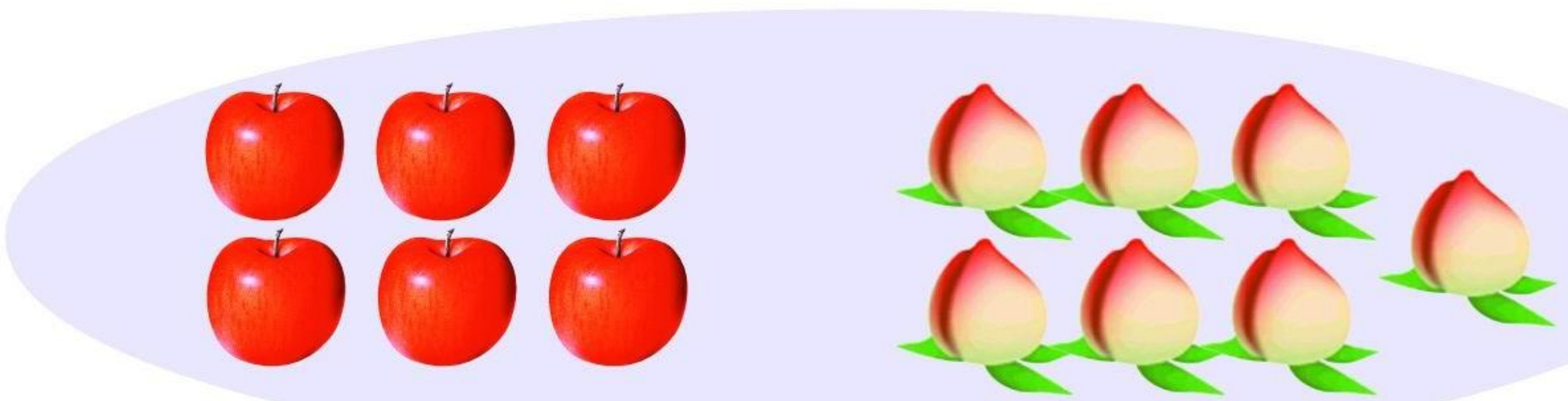

□ + □ = □（个）　　□ + □ = □（个）

□ − □ = □（个）　　□ − □ = □（个）

微信公众号：电子课本大全

4. 说一说。

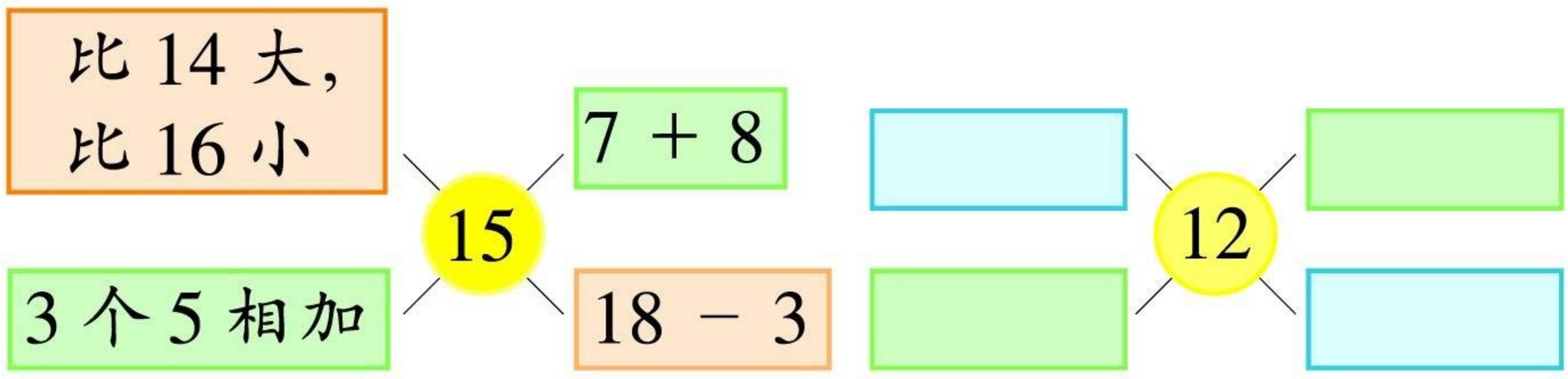

5. 在□里填数，使各算式的得数分别等于9，7和5。

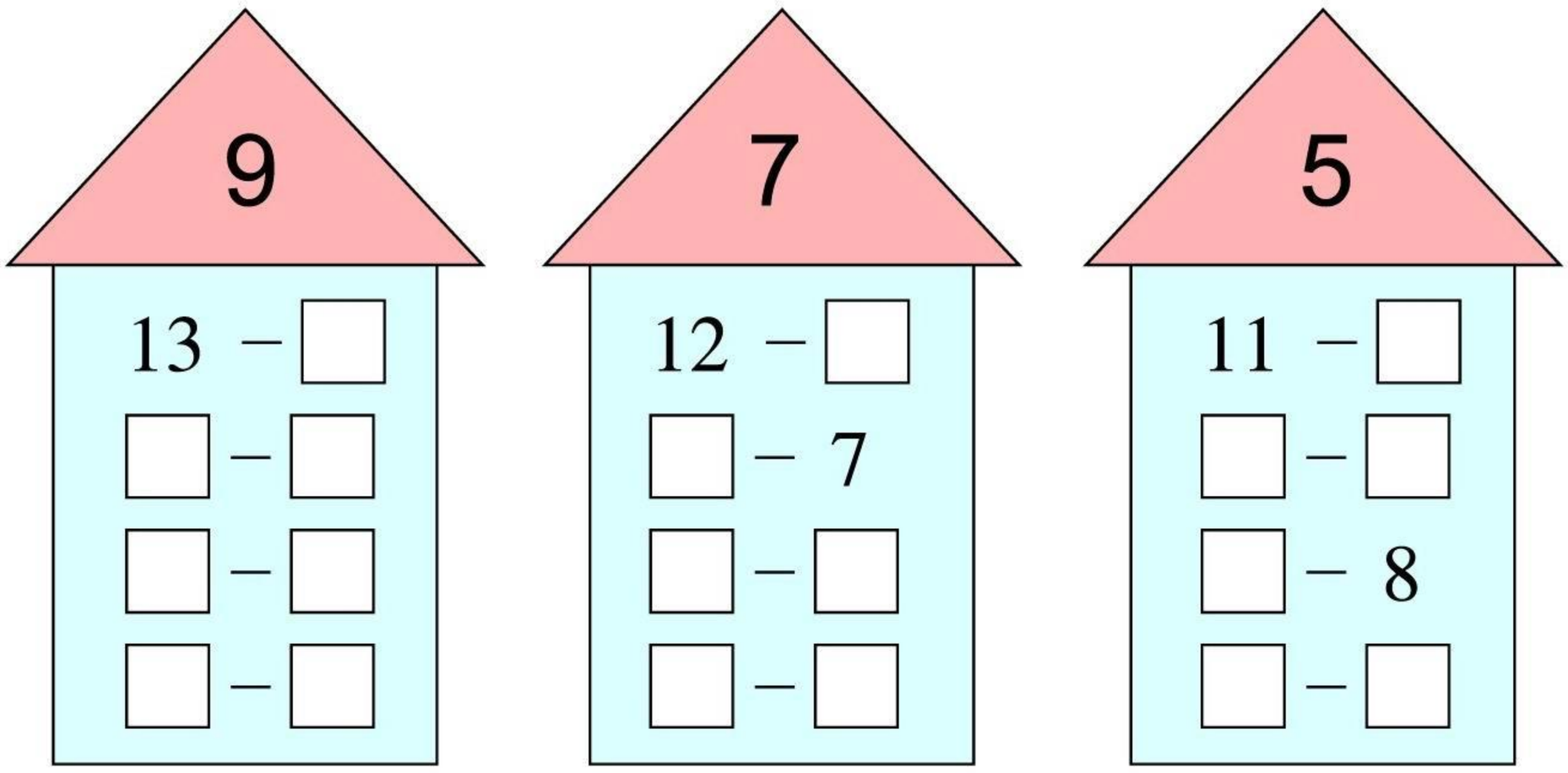

6.

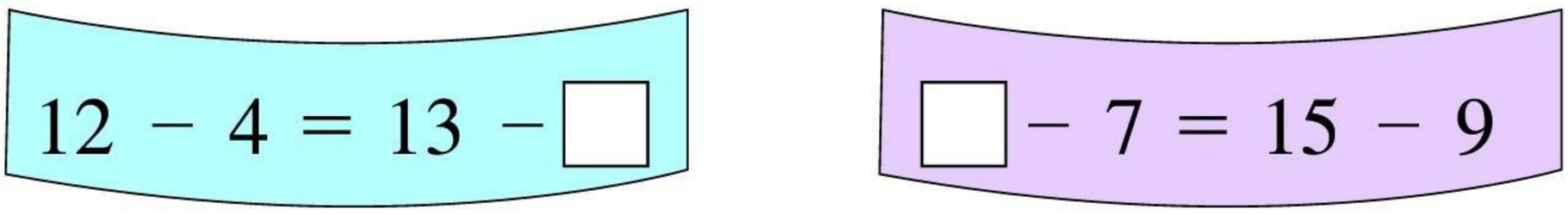

7. 下面的图形分别表示几？你是怎样想的？



8.* 小花分别表示几？



微信公众号：电子课本大全

整理与应用 一

[1]

1. 在这一章里，我们学了什么？



计算13－7有多种方法……

计算13－7，可以用6＋7＝13来想。



2. 整理20以内的退位减法表。

－	1	2	3	4	5	6	7	8	9
10	9								
11		9							
12			9						
13				9					
14					9				
15						9			
16							9		
17								9	
18									9

在小组内交流：

(1) 组内的同学有做错的吗？哪些题容易错？

(2) 观察减法表，你发现了什么？

(3) 找出差比3大、比6小的算式。

微信公众号：电子课本大全

3. 从入口处开始计算，答案是下一个算式的第一个数。

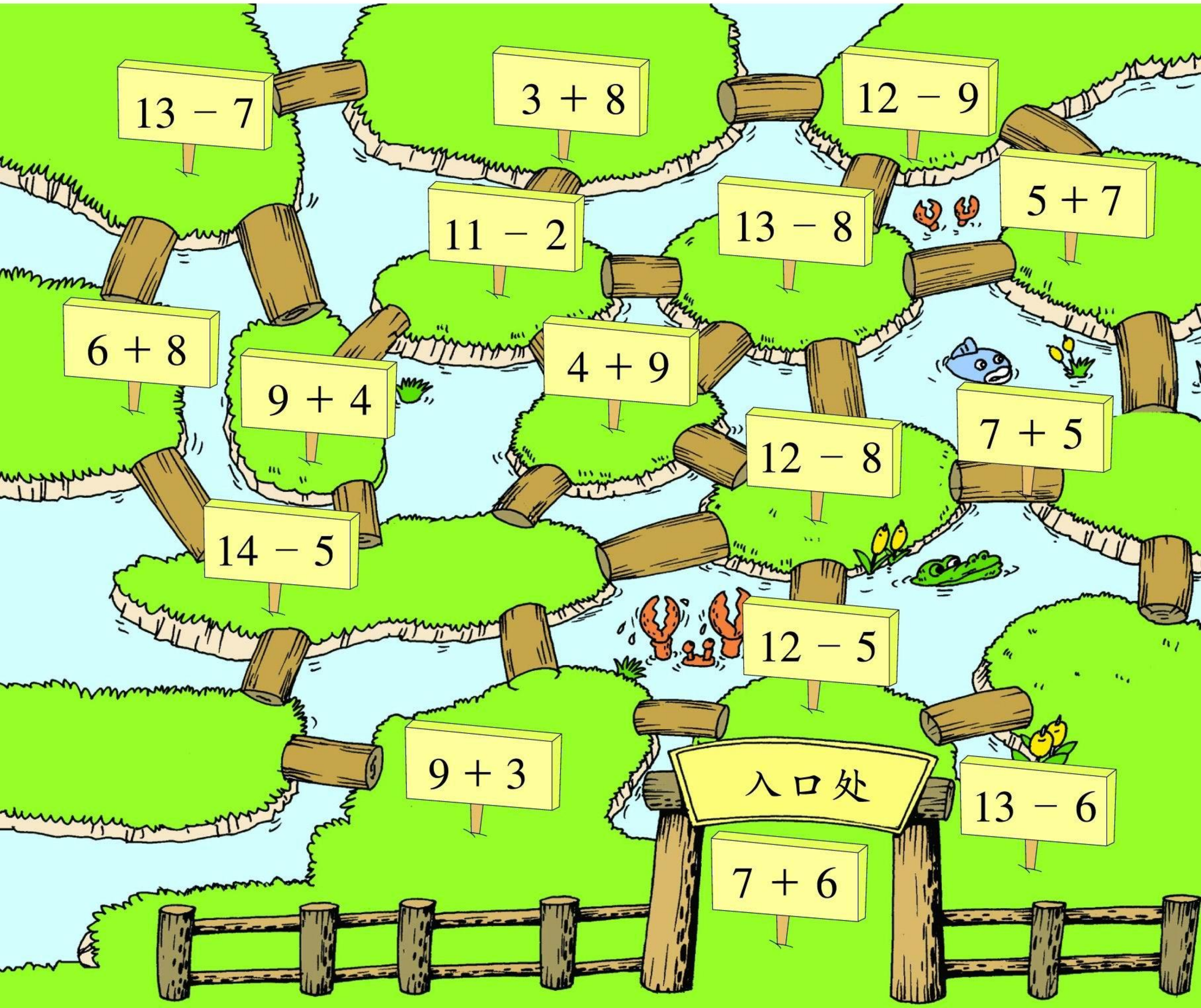



能回到入口处吗？

微信公众号：电子课本大全

微信公众号：电子课本大全

[2]

1. 看图填空。



□ ○ □ = □(个)

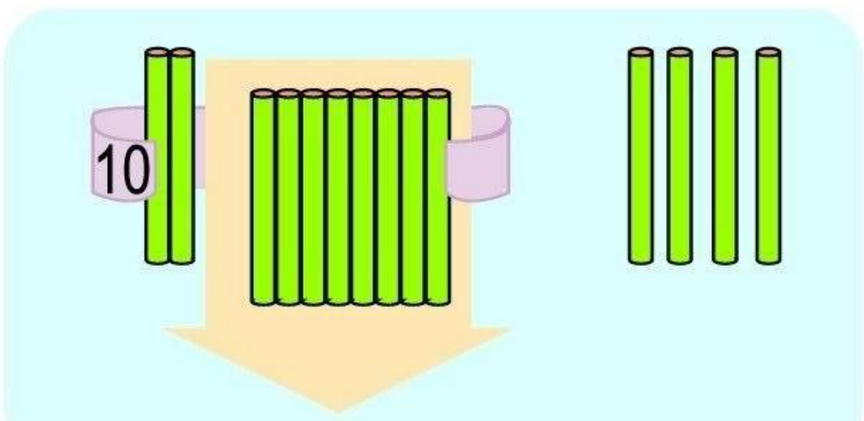

□ ○ □ = □(根)

2. 交流：14 − □ = □，你有哪些填法？



我用减法来找：
14 − 6 = 8
14 − 8 = 6
……

我用加法来找：
5 + 9 = 14
14 − 5 = 9
14 − 9 = 5
……



3. 使算式的得数和花蕊上的数相等，□里该填几？

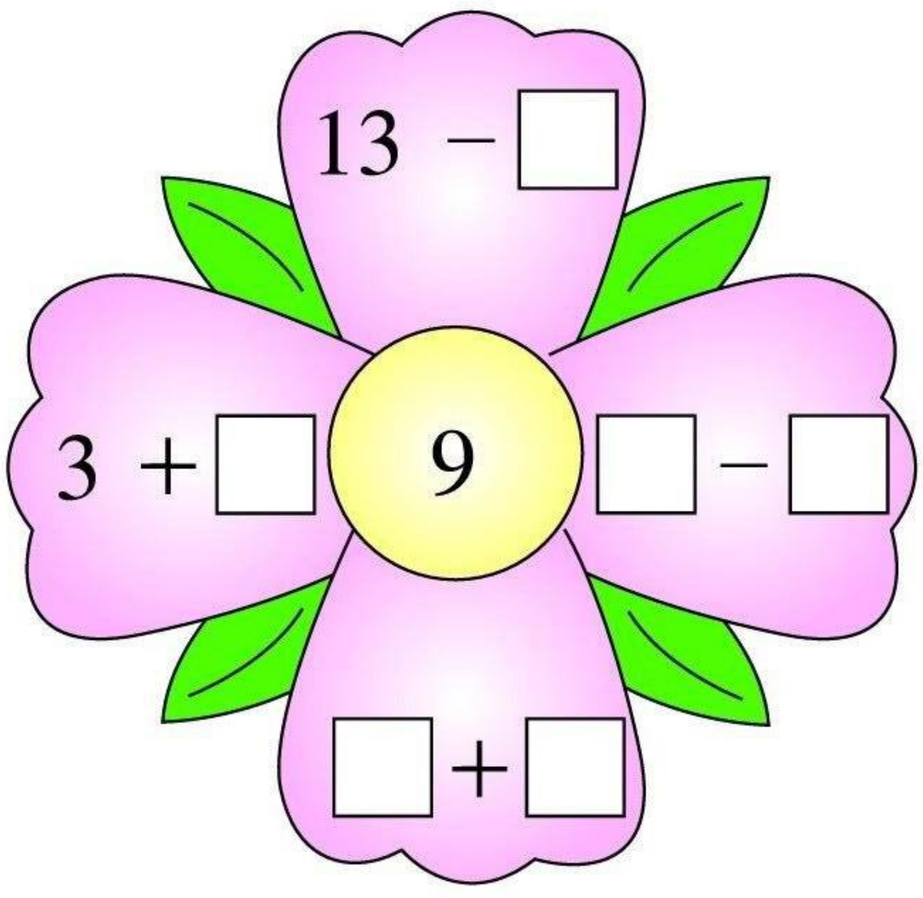

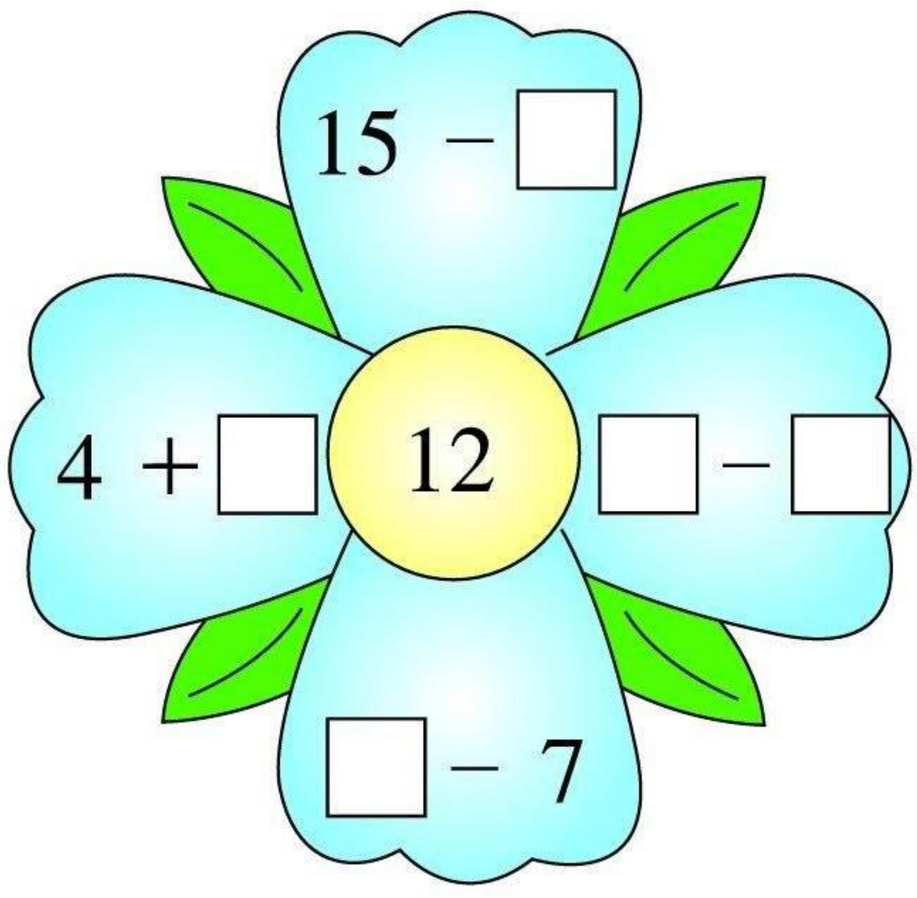

4. 看谁算得对。

12 − 5 = □	16 − 7 = □	7 + 9 − 8 = □
13 − 4 = □	14 − 6 = □	15 − 9 + 5 = □
11 − 9 = □	18 − 9 = □	12 + 4 − 9 = □
17 − 8 = □	15 − 8 = □	13 − 6 − 4 = □

5. 从下面各数中选几个写出得数是8的算式。能写几个就写几个。

1，2，3，4，6，7，10，12，15。



我选两个数……

我选三个数……



6. 在□里填数。说一说你是怎么想的。

12 − 5 = □ − □　　15 − 7 − 2 = 15 − □

13 − 7 = □ − □　　18 − 6 − □ = 6

7. 你能提出哪些数学问题？能解答吗？

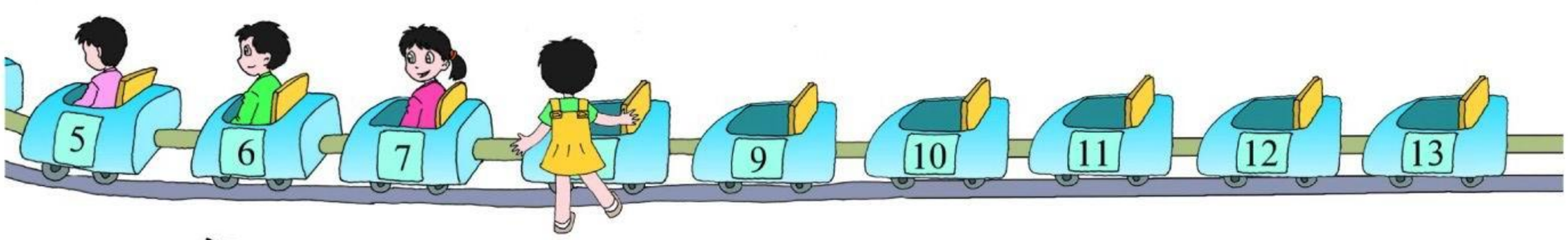





微信公众号：电子课本大全

智慧乐园 一*

1. ♥、✦分别表示几？

♥ + ✦ = 15

12 − ✦ = 5

♥ =（　　）　✦ =（　　）

2. 下面的图形分别表示几？

★ + ★ = 16

☼ + ★ = 14

□ − □ = △

□ + □ = 14

18 − ⊕ = ⊕

⊕ + ⬡ = 15

△ − ○ = 7

○ + 8 = 13

○ + 6 = △

△ + 6 = 19

5 + ◆ = 17

□ − 5 = ◆

3. 小花分别表示几？

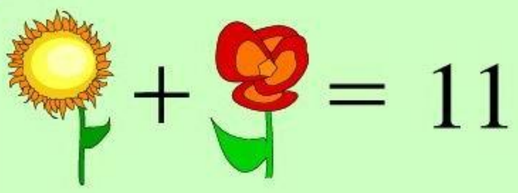


先算哪一朵花呢？

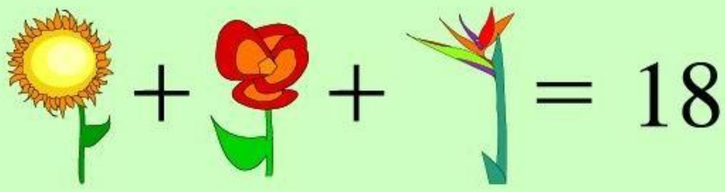



* “智慧乐园”的题目是选做题。

微信公众号：电子课本大全

二 游乐园里的数学问题



看一看，问一问。



椅子上一共坐着几个人？

坐小火车的有几个人？



微信公众号：电子课本大全





$4 + 4 + 4 + \square + \square = \square$



你还能写出几个连加的算式吗？

你还能提出哪些数学问题？

微信公众号：电子课本大全

4 认识乘法

你能写出哪些连加算式？





坐着看的人数
3 + 2 + 4 + 3

玩转盘的人数
4 + 4 + 4 + 4 + 4



你还能写出哪些连加算式？
把大家写的算式分成：

相同的数相加	不全相同的数相加

微信公众号：电子课本大全

1. 一共有几个人？



横看：每行5个人。

5 + 5 + 5 = 15(个)

竖看：每列3个人。

3 + 3 + 3 + 3 + 3 = 15(个)

3个5与5个3的和相等。



3个5的和与5个3的和都可以用乘法算式表示。

3 × 5 = 15 或 5 × 3 = 15。

3	×	5	=	15
乘数	乘号	乘数		积

3 × 5 读做3乘5。5 × 3 读做5乘3。

2. 2个7的和与7个2的和怎样写？

可以写成2 × 7 或7 × 2。

求几个相同加数的和可以用乘法计算。

微信公众号：电子课本大全

1. 写一写，说一说。

(1) 一共有□个果子。

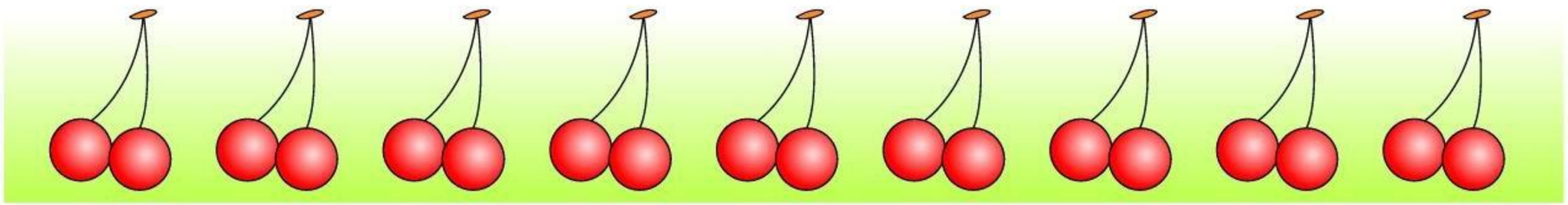

□+□+□+□+□+□+□+□+□+□=□(个)

□×□=□(个)

(2) 一共有□个气球。

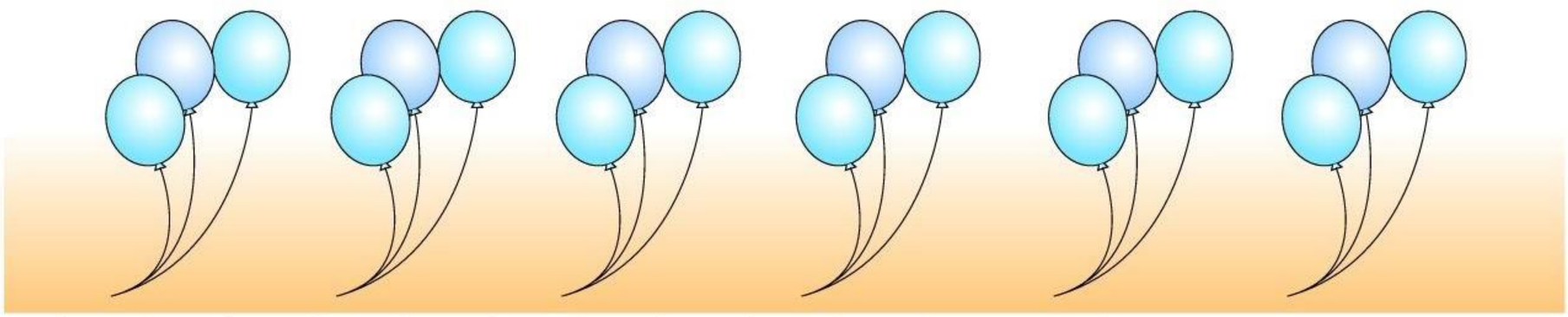

□+□+□+□+□+□=□(个)

□×□=□(个)



2. 一共有多少个苹果？



□×□=□(个)

数学百花园*

乘号的来历

乘法是表示同数连加的一种方法。1631年，一位英国数学家把“+”号斜过来变成“×”号，用来表示乘。

*“数学百花园”作为课外阅读材料。

微信公众号：电子课本大全

2 的乘法口诀

5

看图写乘法算式，编口诀。

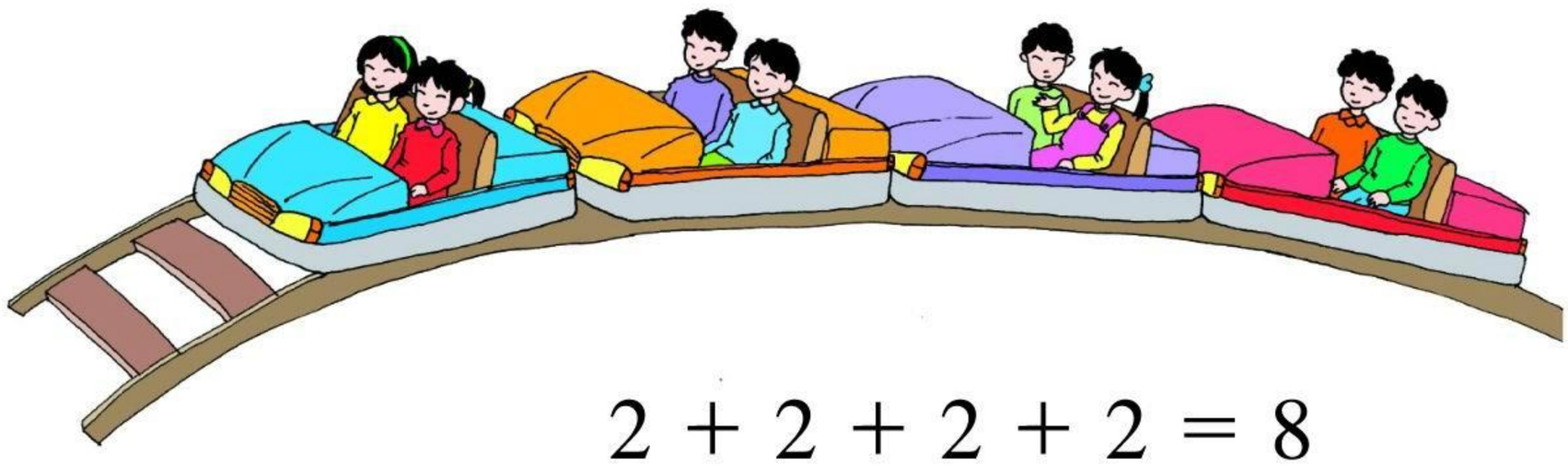

$2 + 2 + 2 + 2 = 8$

$2 \times 4 = 8$　　$4 \times 2 = 8$

口诀：二四得 8



$5 + 5 = 10$

$5 \times 2 = 10$

$2 \times 5 = 10$

口诀：二五 10

编 2 的乘法口诀，与同伴说一说。

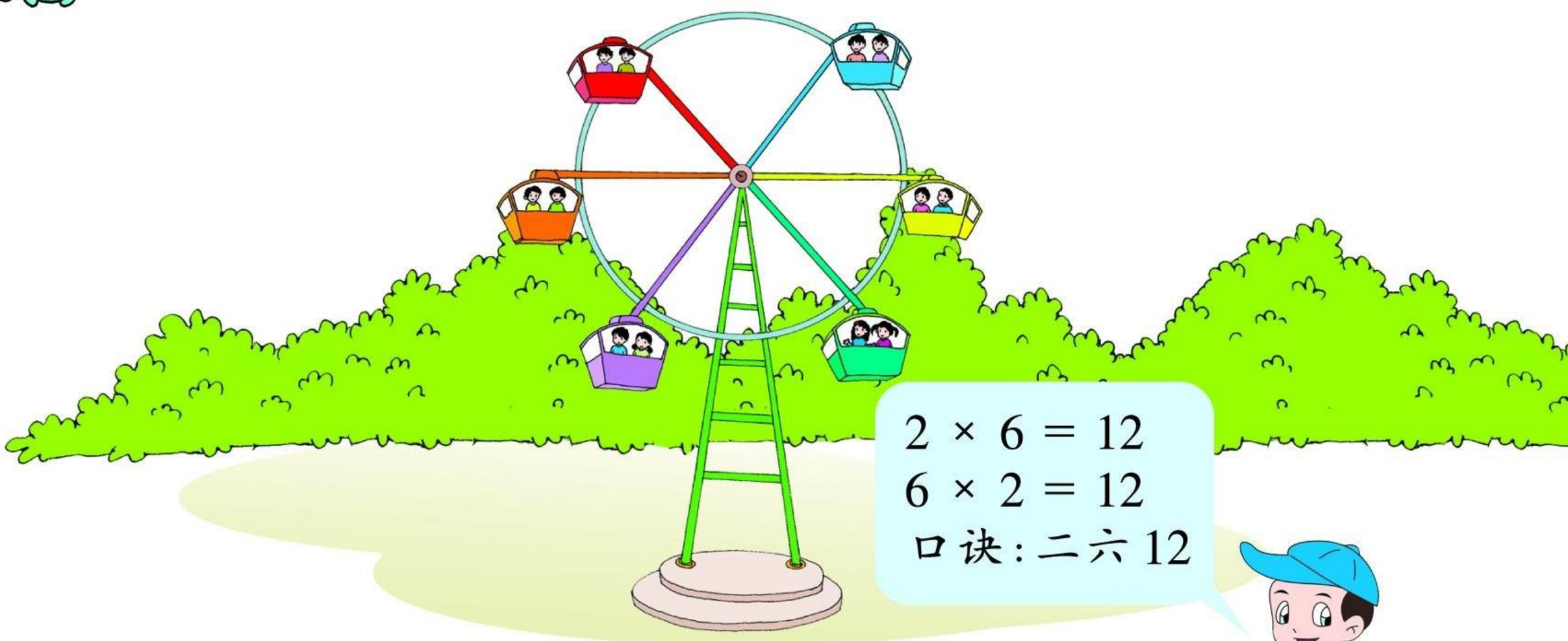

$2 \times 6 = 12$

$6 \times 2 = 12$

口诀：二六 12



微信公众号：电子课本大全

2的乘法口诀

2 × 1 = 2	一二得(　)	1 × 2 = 2
2 × 2 = 4	二二得(　)	2 × 2 = 4
2 × 3 = 6	二三得(　)	3 × 2 = 6
2 × 4 = 8	二四得(　)	4 × 2 = 8
2 × 5 = 10	二五(　)	5 × 2 = 10
2 × 6 = 12	二六(　)	6 × 2 = 12
2 × 7 = 14	二七(　)	7 × 2 = 14
2 × 8 = 16	二八(　)	8 × 2 = 16
2 × 9 = 18	二九(　)	9 × 2 = 18





1. 把1，2，3，…，9与2相乘得到的积圈起来。

1	②	3	4	5	6	7	8	9	10
11	12	13	14	15	16	17	18	19	20

2. 算一算。

7 × 2	2 × 9	6 × 2
2 × 8	5 × 2	9 × 2

3. 小朋友分，每人2个。4人要几个？7人呢？



人数	1	4	7
个数	2		

微信公众号：电子课本大全

练一练 四

1. 一共有多少块乒乓球拍？

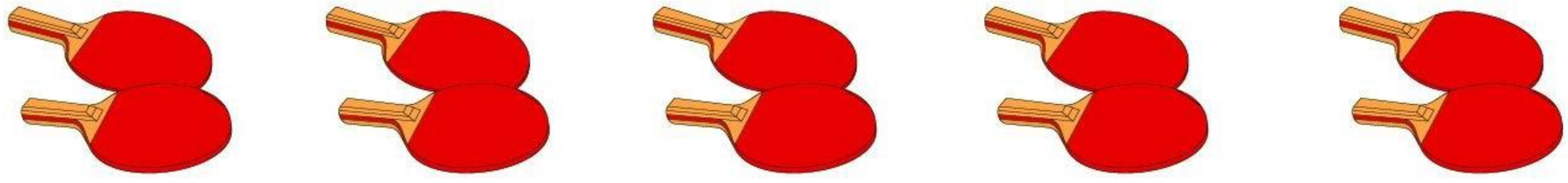

□ × □ = □（块）

2. 一共有多少只手套？



□ × □ = □（只）

3. 看图填表。



车子辆数	1	2	3	4	5	6
车轮个数	2					

微信公众号：电子课本大全

4. 统计。

动物园里的动物统计图

1格代表2只。



□只	□只	□只	□只	□只

5. 看一看，说一说。

有多少颗五角星？

☆☆☆☆☆☆

☆☆☆☆☆☆

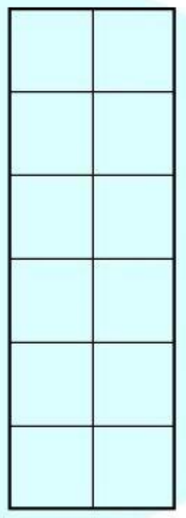

有几个小正方形？

二六 12

2＋2＋2＋2＋2＋2＝(　　)

6＋6＝(　　)

6个2是多少？

2个6是多少？

你能用2的其他口诀说一说吗？

微信公众号：电子课本大全

100 以内的数(一)

——21 ~ 40

6

1. 有多少个皮球？你是怎么知道的？



10 + 6 = 16

16 后面接着数：17，18，19，20，21。

一共有 21 个。

2. 有多少个气球？你是怎么知道的？



5 个 5 个数：

5，10，15，20。

再加 8 个：

20 + 8 = 28

一共有 28 个气球。



1. 想一想，比 29 多 1 的数是多少？比 39 多 1 的数呢？

微信公众号：电子课本大全

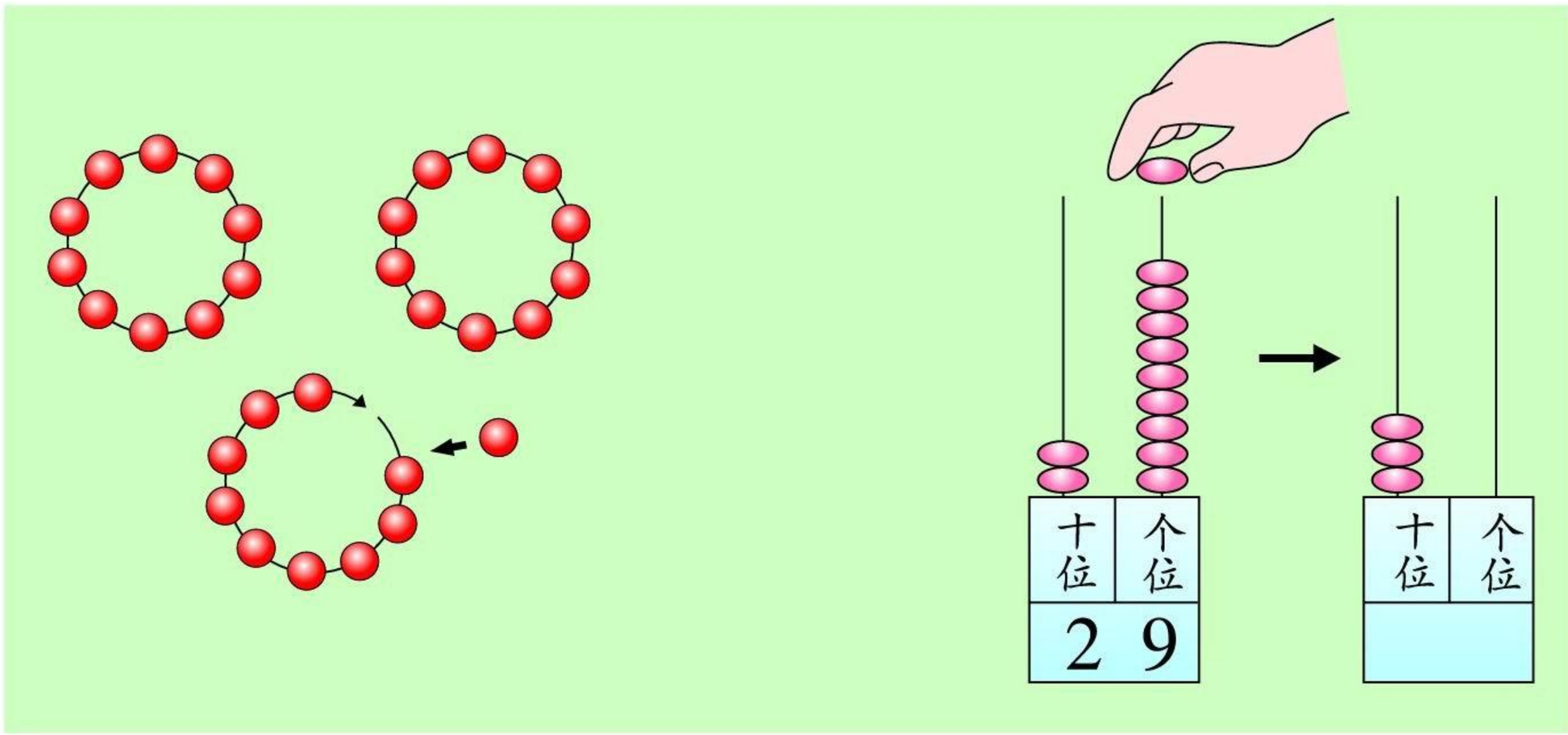

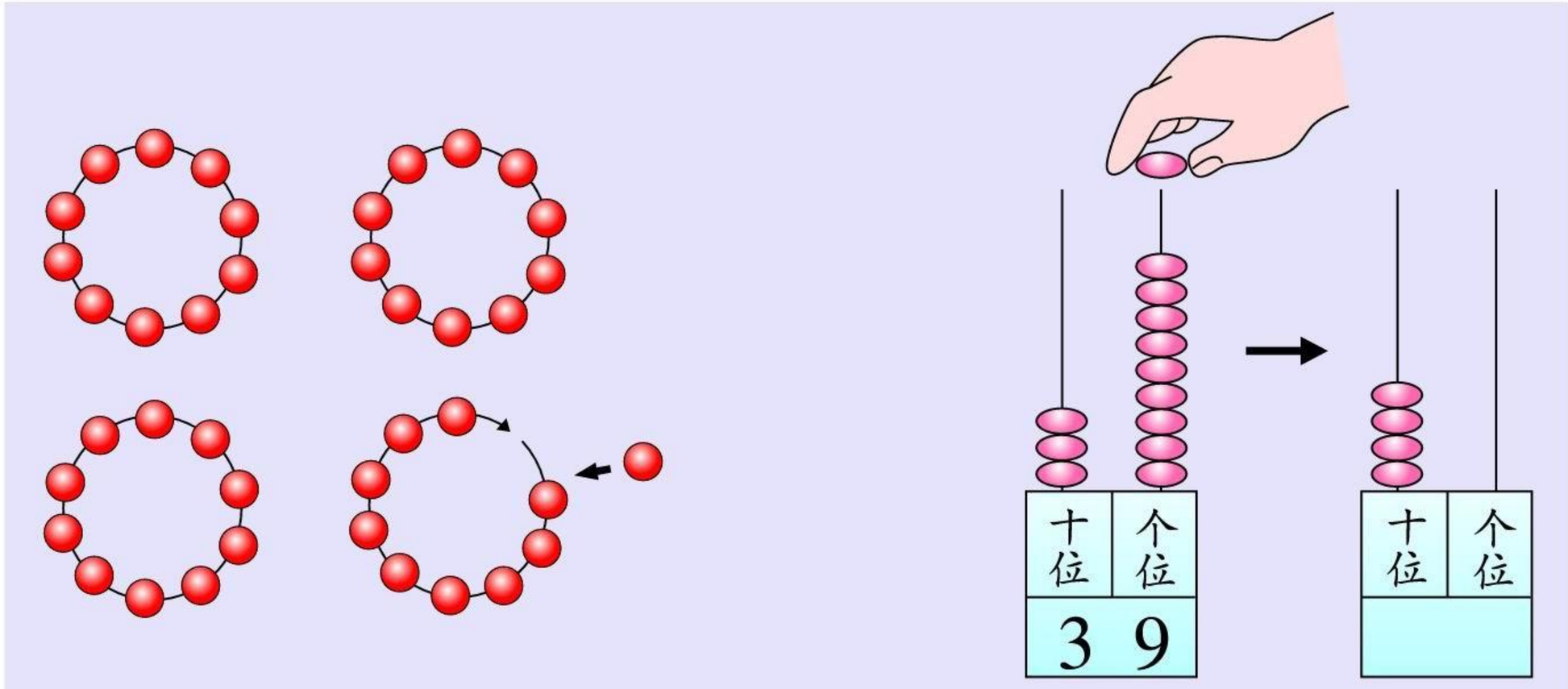

2. 看计数器填空。

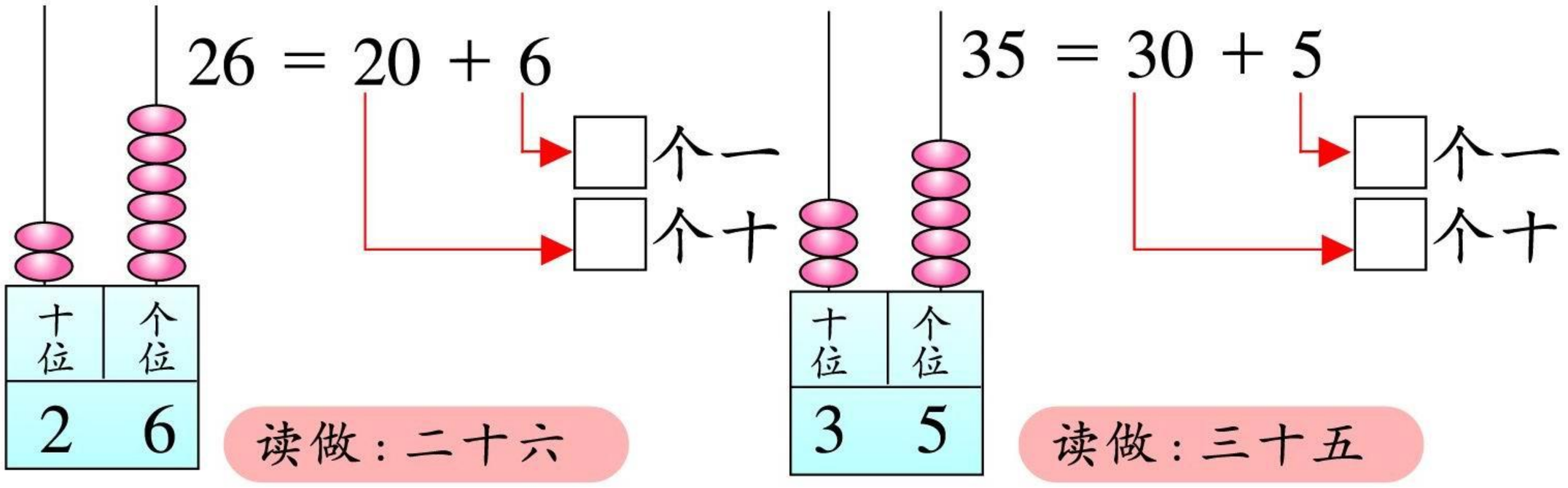

微信公众号：电子课本大全

1. 填写 21 ～ 40 各数。

11	12	13	14	15	16	17	18	19	20
21									
31									

2. 照样子，看图写数。

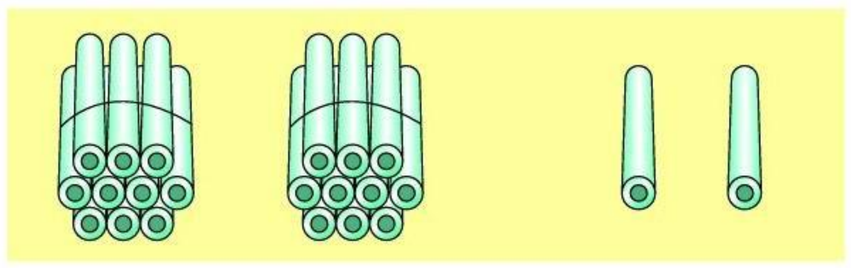

$10 + 10 + 2 = 22$

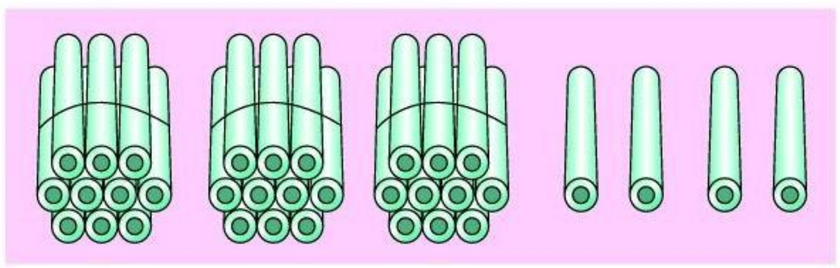

$10 + 10 + 10 + 4 = \square$

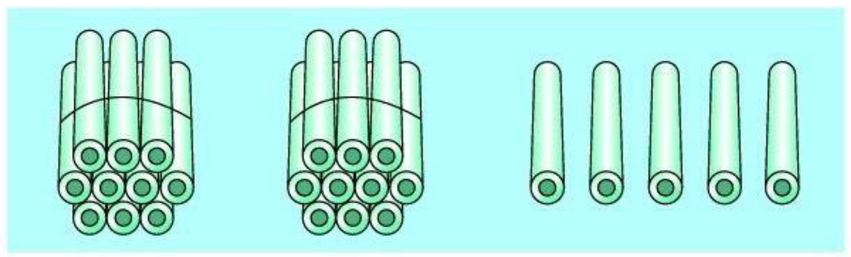

$\square + \square + \square = \square$

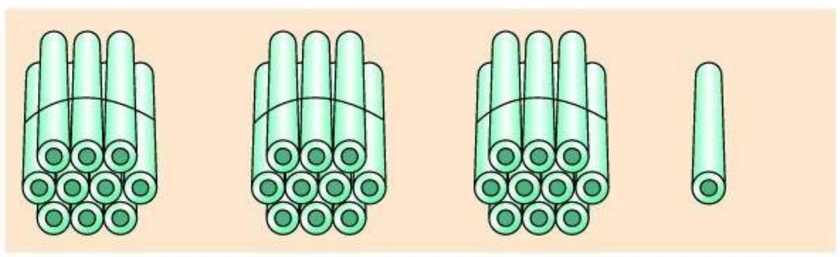

$\square + \square + \square + \square = \square$

3. 用 4 个“•”表示不同的数，画一画，写一写。

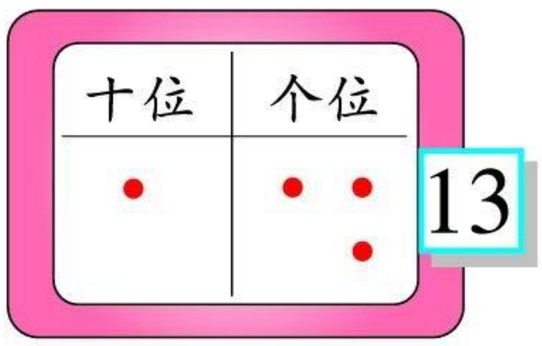

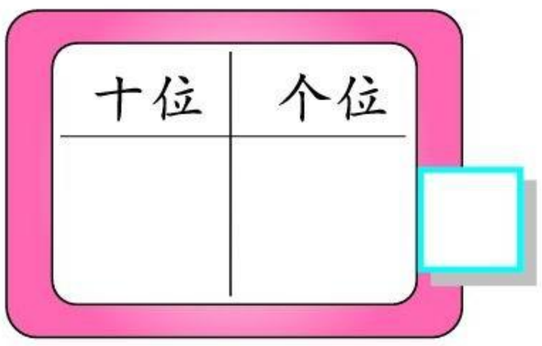

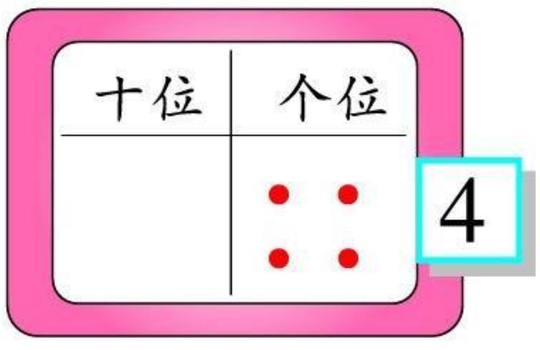

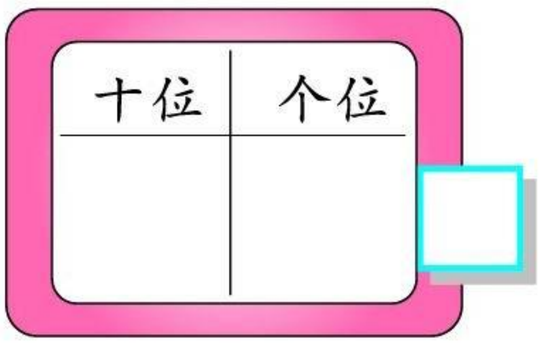

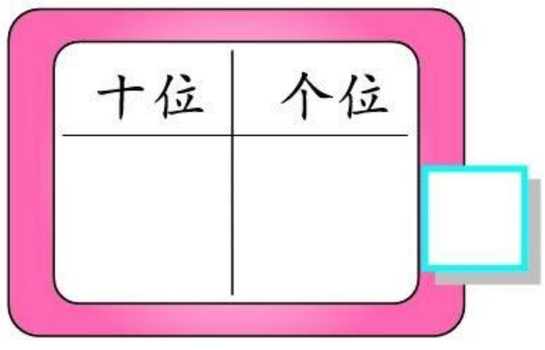

微信公众号：电子课本大全

7 两位数加一位数

提出两位数与一位数相加的问题。



1. 矿泉水与苹果汁一共有多少瓶？



$24 + 5 = \square$（瓶）



$4 + 5 = 9$
$20 + 9 = 29$

一共有 29 瓶。

2. 矿泉水与橙汁一共有多少瓶？

$24 + 8 = \square$（瓶）



$24 + 6 = 30$
$30 + 2 = 32$

$4 + 8 = 12$
$20 + 12 = 32$



一共有 32 瓶。

微信公众号：电子课本大全

1.

5 + 3	9 + 4	6 + 8	7 + 9
15 + 3	19 + 4	16 + 8	17 + 9
25 + 3	29 + 4	26 + 8	27 + 9

2. 看图在□里填数。



16 + 8 = □(个)

3个8相加等于□。



□个□相加等于□。

3. 在□里填数。

9 + 9

□ + 9

□ + 9

3个9相加等于□。

4个9相加等于□。

4. 在□里填数。

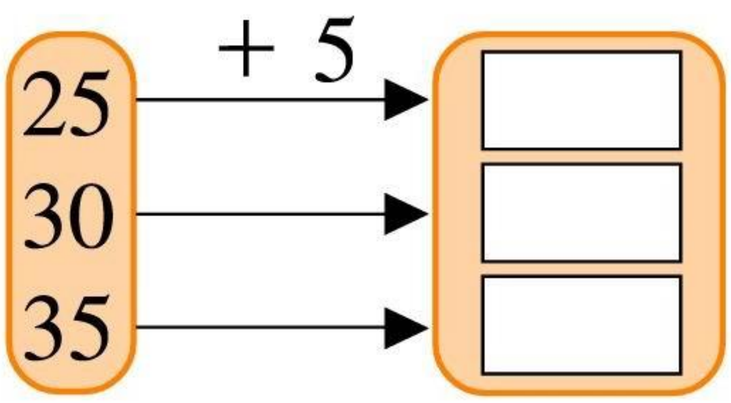

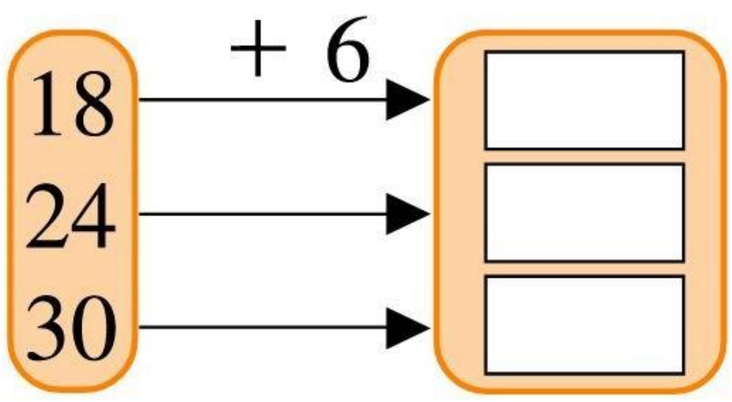

微信公众号：电子课本大全

练一练 五

1. 比一比，算一算。

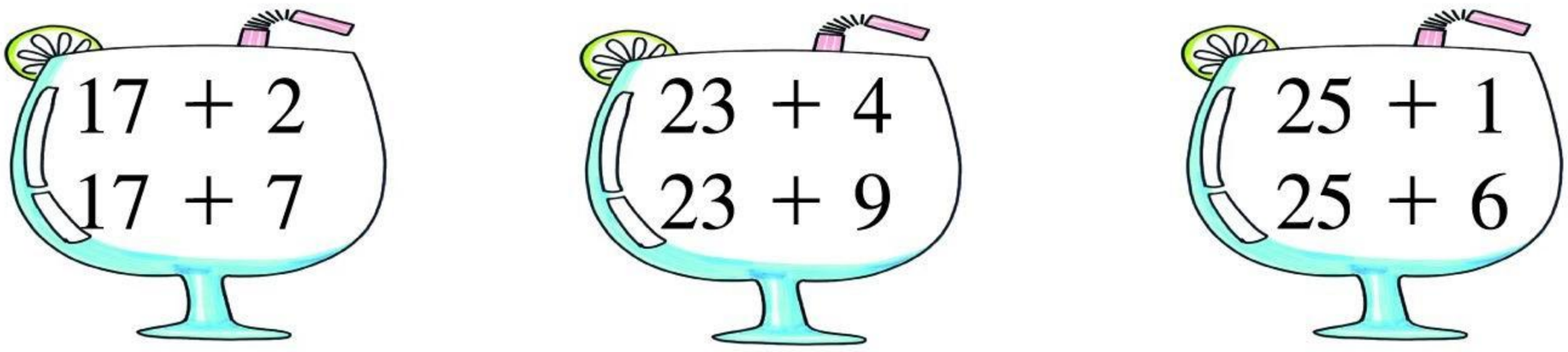

2. 计算。



3. 计算。

24 + 3	15 + 6	24 + 8	29 + 4
23 + 6	25 + 7	17 + 6	35 + 3
32 + 5	18 + 9	27 + 8	18 + 5

4. 算一算，比一比。

7 + 7 + 7
14 + 7

7 + 7 + 7 + 7
21 + 7

9 + 9 + 9
18 + 9

9 + 9 + 9 + 9
27 + 9

微信公众号：电子课本大全

5. 看图列式。

(1) 有几个 ◢ ?



□ + □ + □ = □(个)

□ × □ = □(个)

(2) 有几个 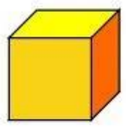 ?

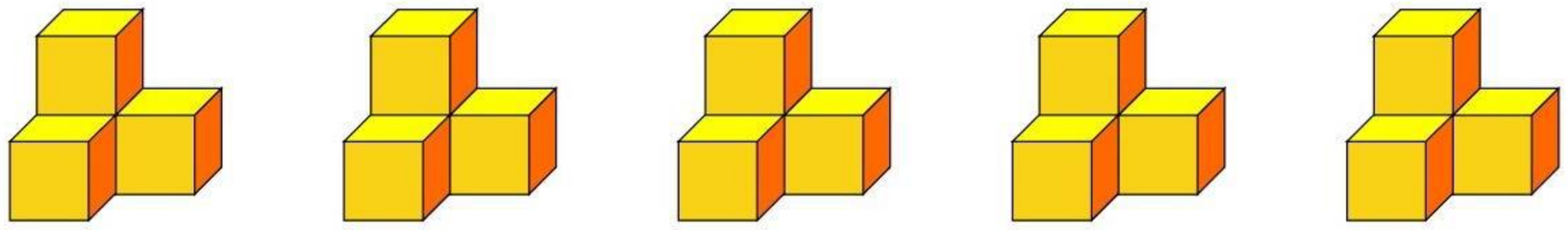

□ + □ + □ + □ + □ = □(个)

□ × □ = □(个)

6. 佳佳帮老师整理体育室，她画了一张统计图。

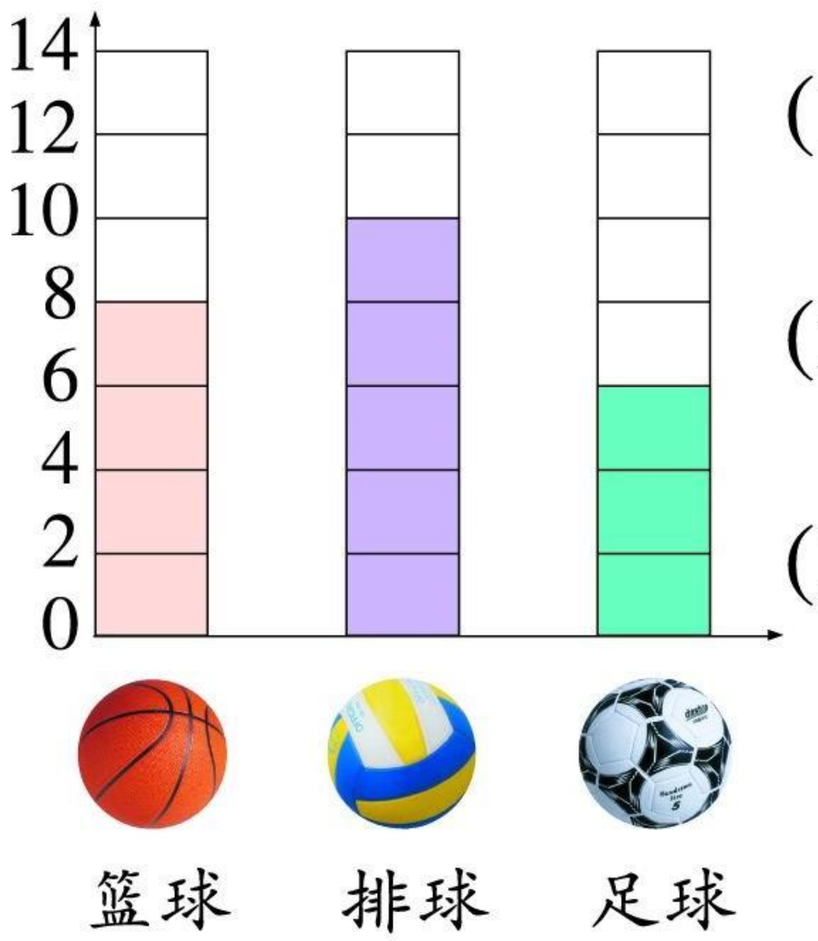

(1) 体育室里一共有几个球？

列式计算：_____

(2) 排球比足球多几个？

列式计算：_____

(3) 你还能提出哪些数学问题？

微信公众号：电子课本大全

8 3的乘法口诀

1. 看图写出加法算式和乘法算式。



$3 + 3 + 3 = 9$

$3 \times 3 = 9$

三三得9

$3 + 3 + 3 + 3 = 12$

$3 \times 4 = 12$

三四12



横看：$3 + 3 + 3 + 3 + 3 = 15$

竖看：$5 + 5 + 5 = 15$

$3 \times 5 = 15$

三五15

2. 把1，2，3，…，9分别与3相乘得到的积圈起来。

1	2	③	4	5	⑥	7	8	⑨	10
11	12	13	14	15	16	17	18	19	20
21	22	23	24	25	26	27	28	29	30

编3的乘法口诀。

一三得(　　)
二三得(　　)
三三得(　　)

三四(　　)
三五(　　)
三六(　　)

三七(　　)
三八(　　)
三九(　　)

微信公众号：电子课本大全

1. 看图计算。

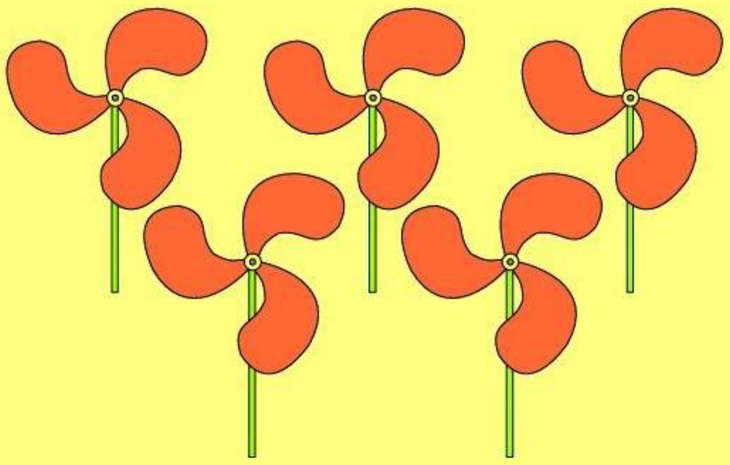

1 个风车有 3 片叶子，
5 个风车有几片叶子？

□ × □ = □（片）

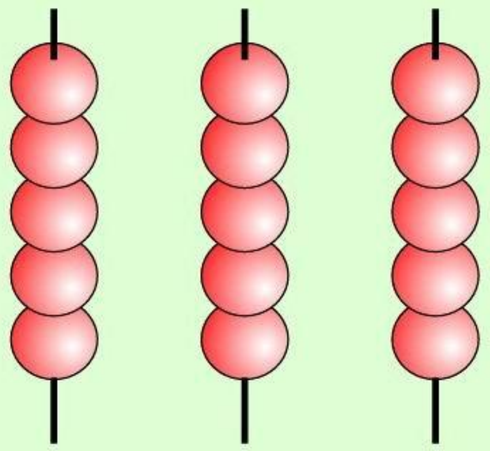

1 串有 5 个，
3 串有几个？

□ × □ = □（个）

2. 1 辆  有 3 个轮子，2 辆、4 辆、6 辆、8 辆各有多少个轮子？

车子辆数	1	2	4	6	8
轮子个数	3				

3. 在价格上：



= 

7 条  = □ 顶 

4. 根据下表在□里填数。

3	3	3	3
6		6	
12			

3 × □ = 12

6 × □ = 12

12 × 1 = □

微信公众号：电子课本大全

9 4的乘法口诀

1. 看图填空。



1只青蛙4条腿，2只青蛙□条腿，

3只青蛙□条腿，4只青蛙□条腿，

5只青蛙□条腿，6只青蛙□条腿。

2.



1辆汽车4个轮子。

车子辆数	1	3	5	7	9
轮子个数	4				

3. 把1，2，3，4，…，9分别与4相乘得到的积圈起来。

1	2	3	④	5	6	7	⑧	9	10
11	⑫	13	14	15	16	17	18	19	20
21	22	23	24	25	26	27	28	29	30
31	32	33	34	35	36	37	38	39	40

微信公众号：电子课本大全

编4的乘法口诀。

一四得(　　)
二四得(　　)
三四(　　)

四四(　　)
四五(　　)
四六(　　)

四七(　　)
四八(　　)
四九(　　)

1. 每张桌子配4把椅子，3张、5张、7张、9张桌子各配多少把椅子？



桌子张数	1	3	5	7	9
椅子把数	4				

2. 在□里填数，并在(　　)里填乘法口诀。

$4 \times 7 =$ □
$7 \times 4 =$ □
(　　)

$5 \times 4 =$ □
$4 \times 5 =$ □
(　　)

$4 \times 9 =$ □
$9 \times 4 =$ □
(　　)

3.*

$= 2 + 2 + 2 + 2 + 2 + 2$
⋮　⋮　⋮　⋮　⋮
$= 4 + 4 + 4 + 4 + 4 + 4$

比 多(　　)。

微信公众号：电子课本大全

练一练六

1. 先填写乘法算式，再算出得数。

(1) 每个花瓶里插5枝花，3个花瓶里一共插了□枝花。



□ × □ = □(枝)

(2) 每间兔舍里有3只兔子，4间兔舍里一共有□只兔子。

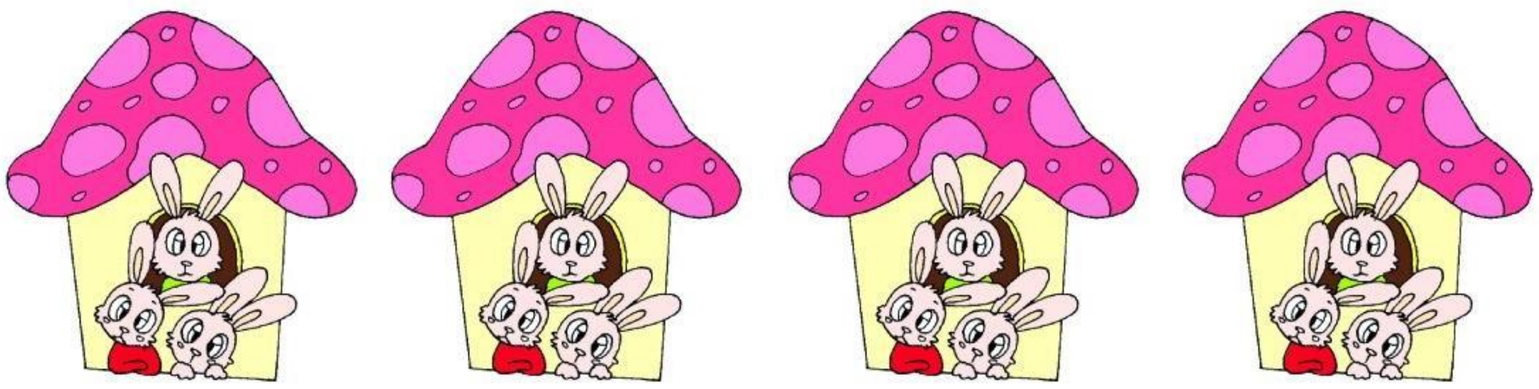

□ × □ = □(只)

2. 根据每句乘法口诀，分别写出两道乘法算式。

四七28

□ × □ = □

□ × □ = □

三九27

□ × □ = □

□ × □ = □

3. 在□里填数。

$\left.\begin{matrix}\square \times \square \\ \square \times \square\end{matrix}\right\} = 12$

$\left.\begin{matrix}\square \times \square \\ \square \times \square\end{matrix}\right\} = 18$

微信公众号：电子课本大全

4.

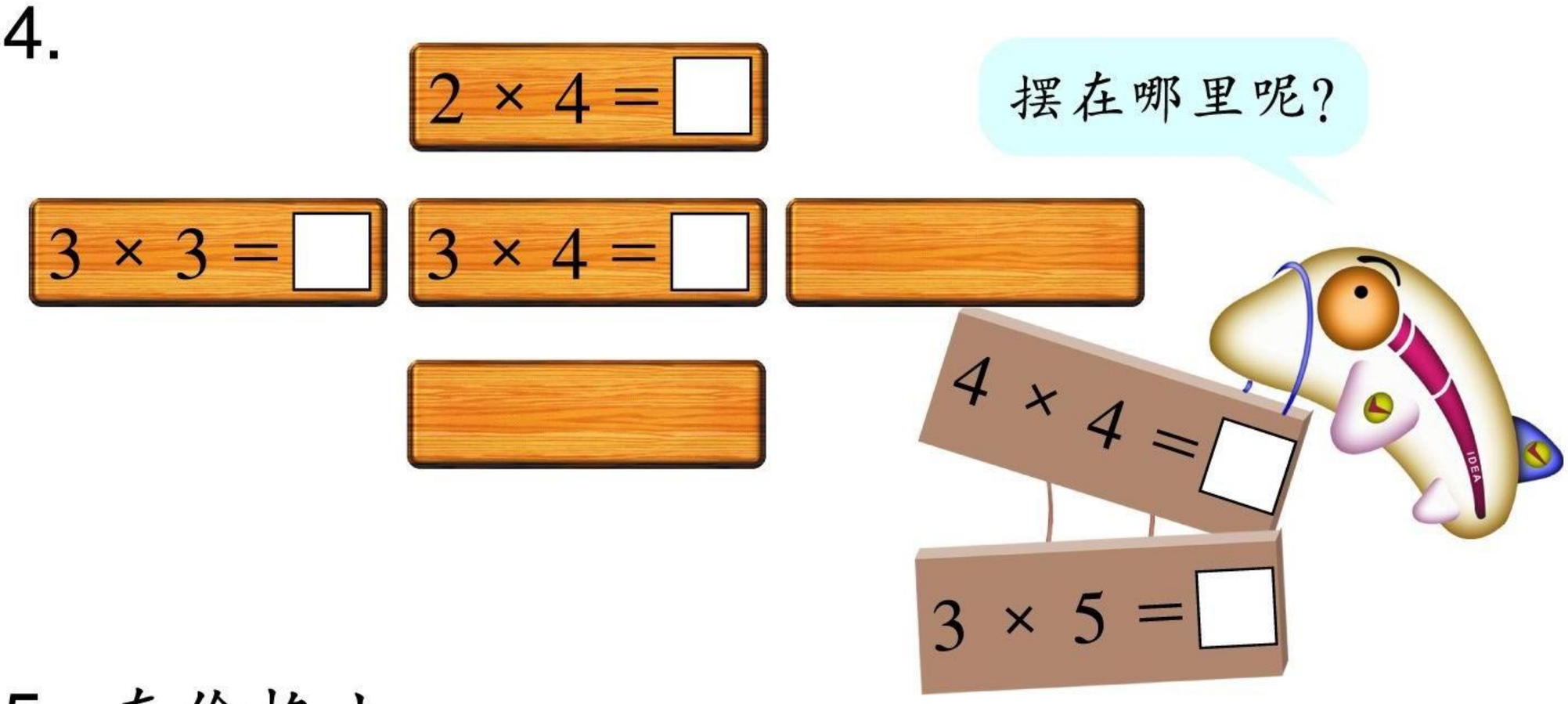

5. 在价格上：

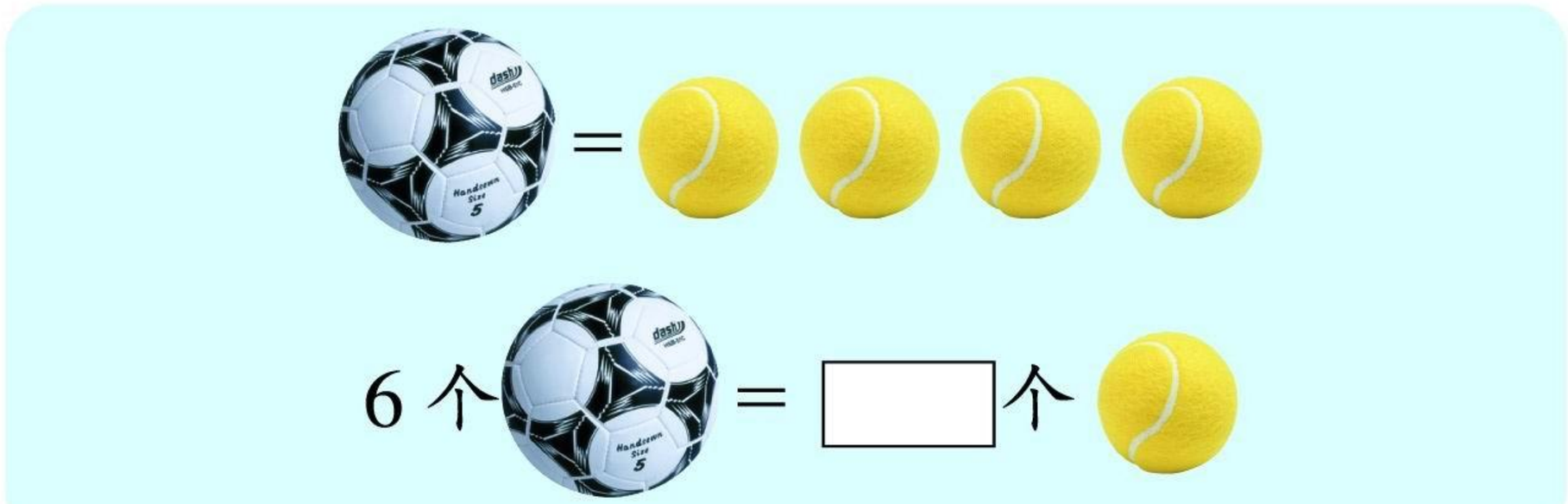

6. 一共有多少个？你是怎样计算的？

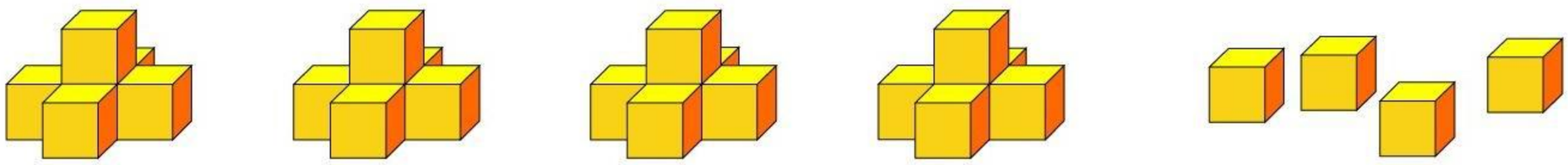

□ × □ = 4

□（个）

7. 小朋友参加体育活动。

(1) 跳绳的分3组，每组5人。跳绳的有□人。

(2) 跳绳的有15人，拍皮球的有8人。跳绳的和拍皮球的一共有□人。

微信公众号：电子课本大全

练一练 七

1. 说一说下面各图的意思，并解决问题。

有几把钥匙？



□ × □ = □（把）

有几朵花？



□ × □ = □（朵）

2. 它们各跳了几格？请列式计算。

(1)

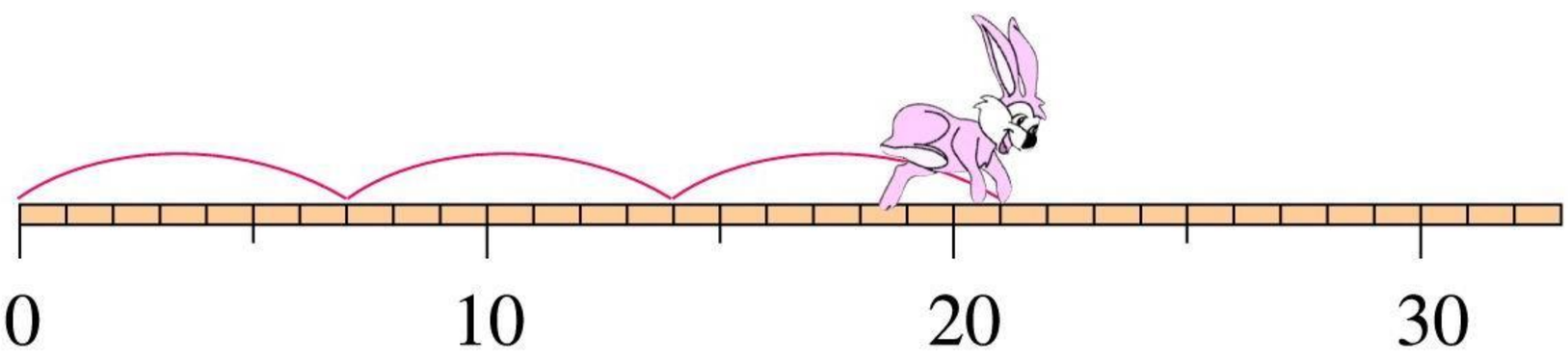

(2)

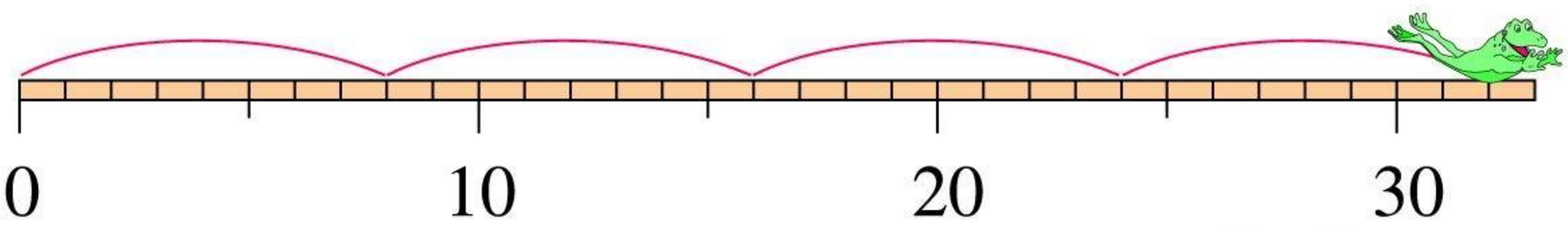

(3)

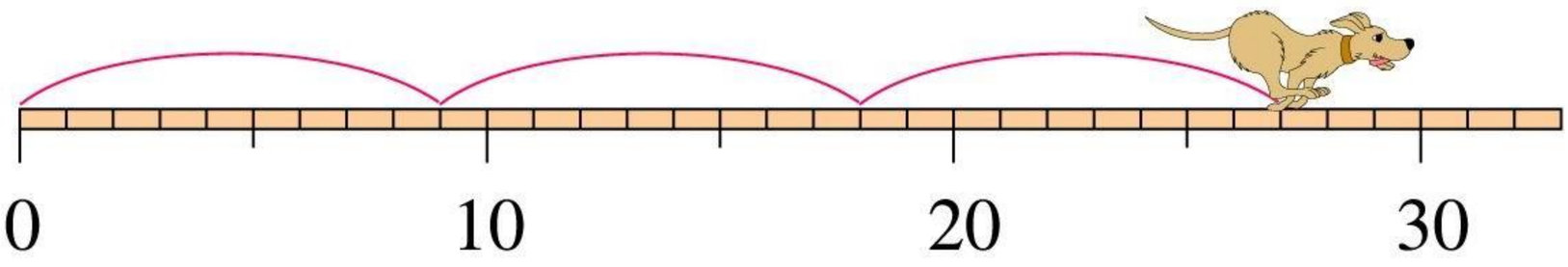



_____



_____



_____

3. 计算。

8 × 3	4 × 7	2 × 9
24 + 9	28 + 8	18 + 7

微信公众号：电子课本大全

4. 算一算。

8×4	9×3	6×4
4×7	7×3	4×9

5. 根据下表在□里填数。

4	4	4	4	4	4
8		8		8	
24					

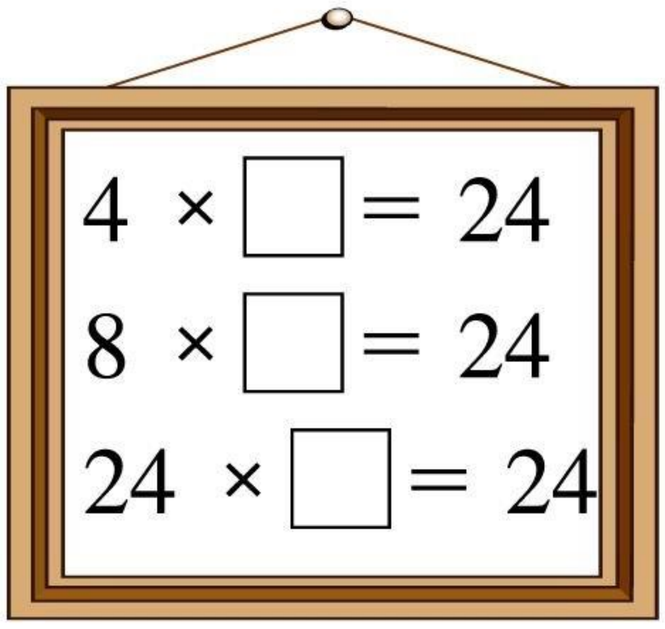

6. 在□里填数。

$4 \times 6 = 3 \times \square$

$4 \times 4 = 8 \times \square$

7.

$\bigstar + 5 = 11$　　$\bigstar = \square$

$\bigcirc + \bigcirc + 5 = 11$　　$\bigcirc = \square$

$\triangle + \triangle + \triangle + 5 = 11$　　$\triangle = \square$

8* 按规律填数。

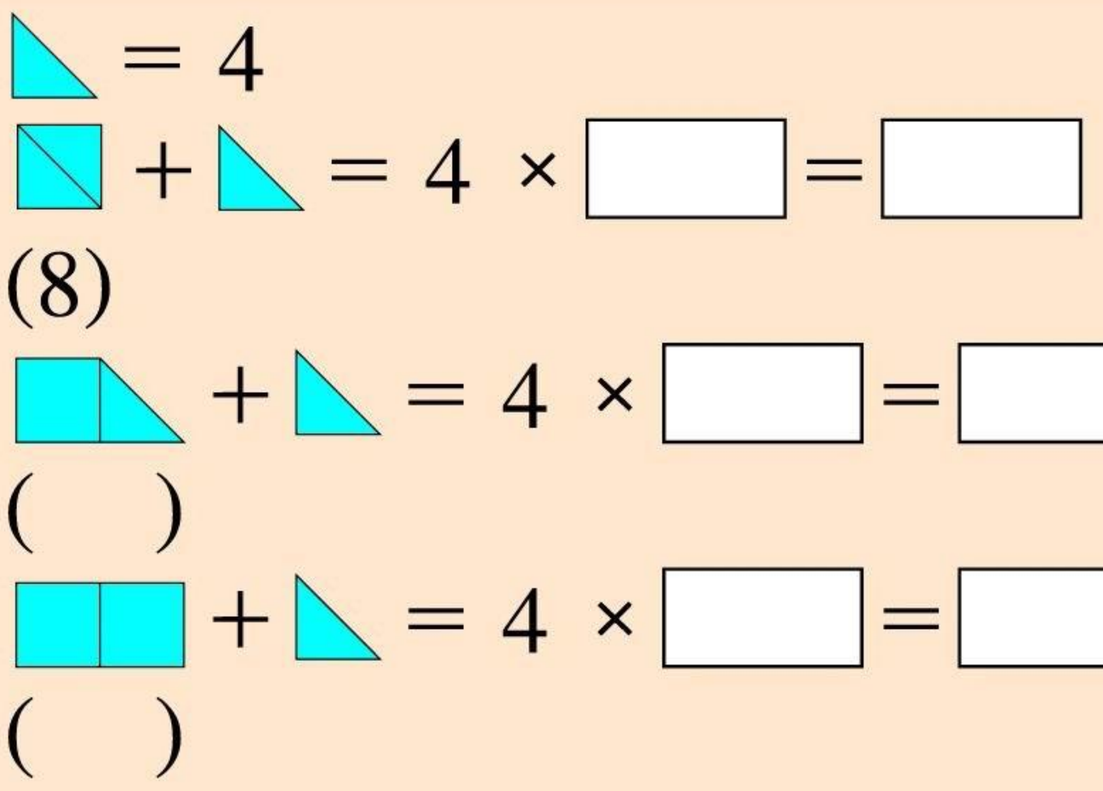

微信公众号：电子课本大全

10 乘 加

同学们喜欢的活动项目，统计结果如下。



①



②



③



④

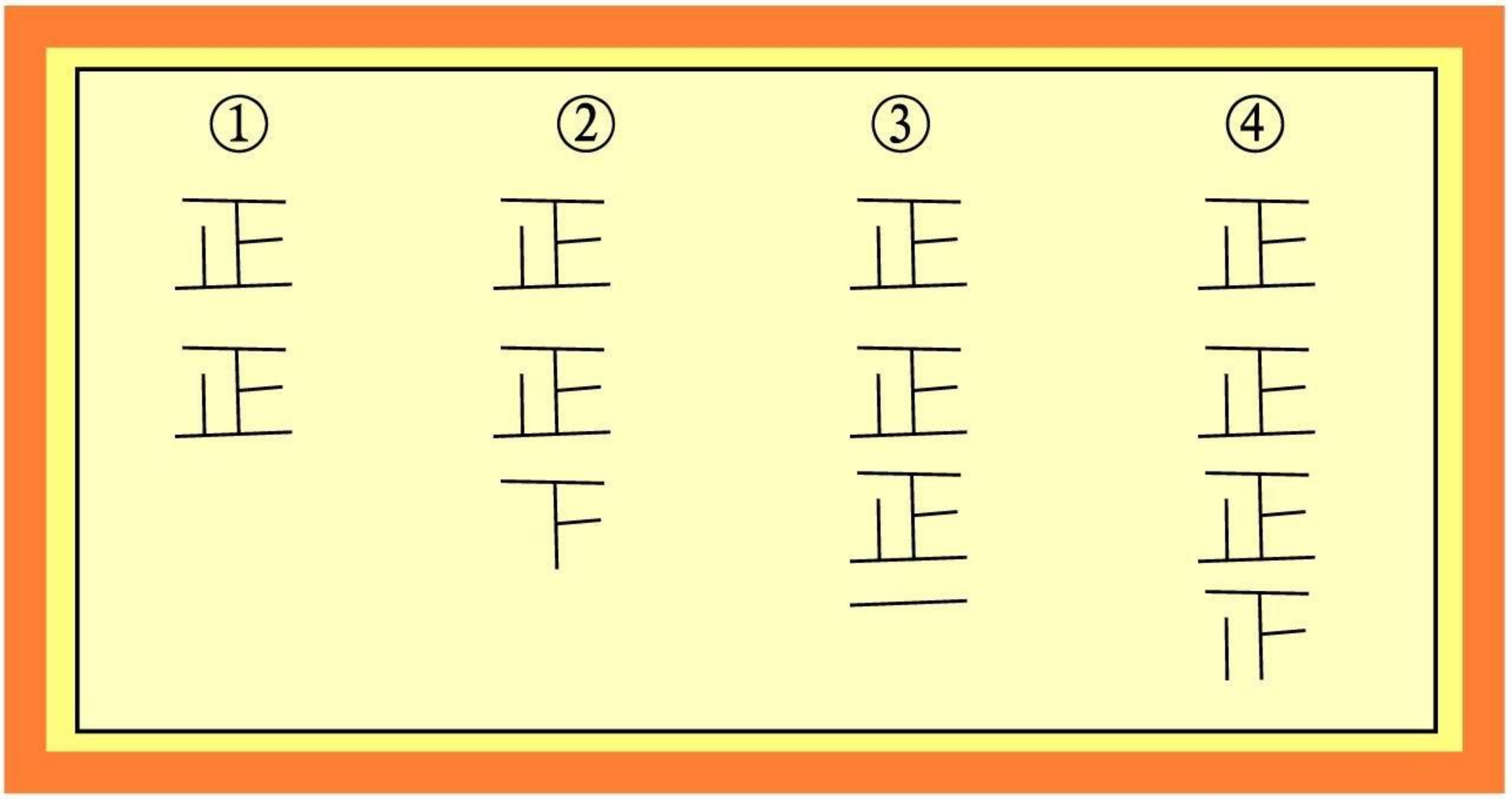

每项活动各有多少人喜欢？

① $5 \times 2 = 10$(人)　② $5 \times 2 + 3 = 13$(人)

③ $5 \times 3 + 1 = 16$(人)　④ $5 \times 3 + 4 = 19$(人)

微信公众号：电子课本大全

有几朵花？怎样数比较方便？



先把你的数法画出来，再列式计算结果。



$3 \times 5 + 2 = 17$

15





□ × □ + □ = □　　□ × □ + □ = □

1. 统计选班长的票数。

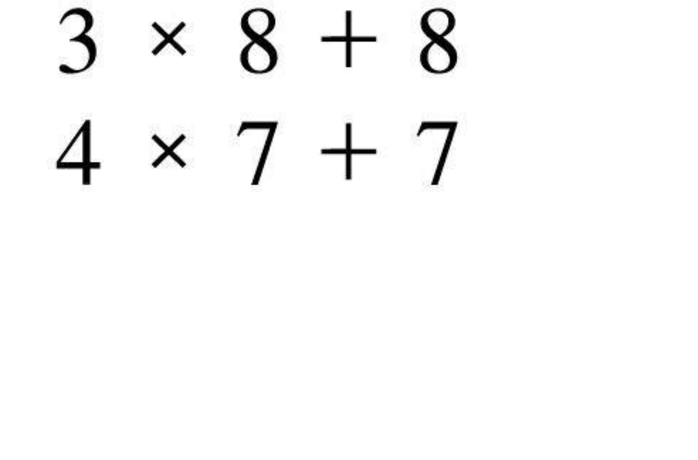

李红：正正 丅

□ × □ + □ = □

王星：正正正正 下

□ × □ + □ = □

2. 计算。

$3 \times 8 + 8$　　$9 \times 3 + 6$

$4 \times 7 + 7$　　$8 \times 4 + 8$

微信公众号：电子课本大全

练一练 八

1. 每盒有 6 块蛋糕，一共有多少块？



6 × □ + □ = □（块）

2. 列式计算共有多少个苹果。



3. 看图在□里填数。

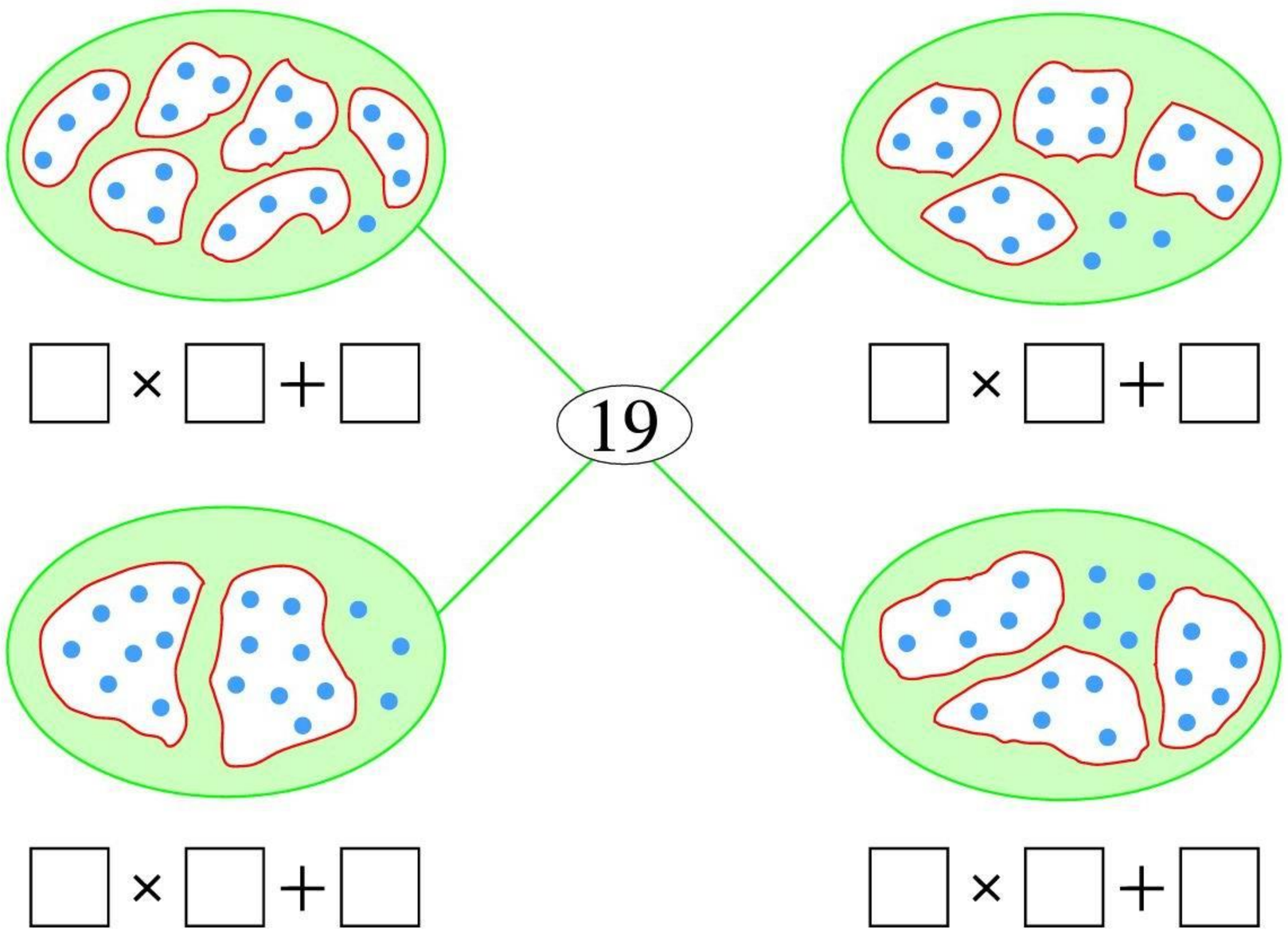

微信公众号：电子课本大全

4.

★ = 6　　▲ = 7

★ + ★ + ★ + ▲ = (　　)

6 + 6 + 6 + 7 = □

6 × 3 + 7 = □

⊙ = 7　　▬ = 5

⊙ + ⊙ + ⊙ + ⊙ + ▬ = (　　)

□ × □ + □ = □

5. (1) 看图在□里填数。

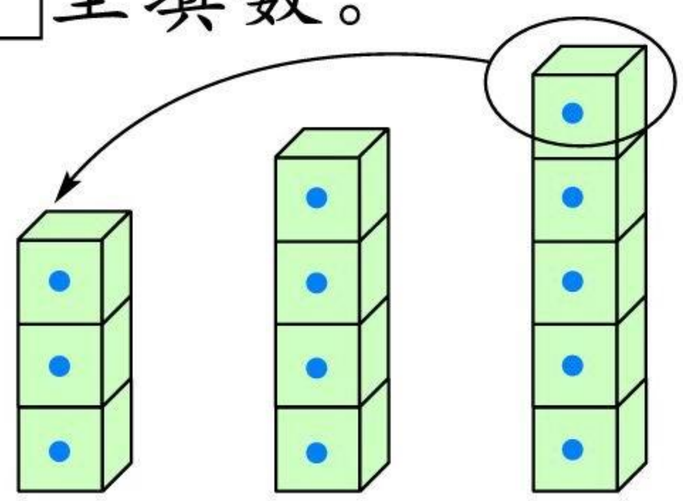

3 + 4 + 5 = 4 × □



2 + 4 + 6 = 4 × □

(2) 在□里填数。

(1) 1 + 2 + 3 + 4 + 5 = □ × 5

(2) 1 + 2 + 3 + 4 + 5 + 6 = □ × 5 + □

(3) 2 + 3 + 4 + 5 + 6 = □ × 5

(4) 1 + 2 + 3 + 4 + 5 + 6 = □ × 5 + □

微信公众号：电子课本大全

整理与应用 二

[1]

1. 在这一章里，你学会了什么？



我会用乘法口诀计算。

我会做乘加题。



我认识了 21 ～ 40 的数。



2. 填乘法口诀。

一一得 1
一二得(　)　二二得 4
一三得(　)　二三得(　)　三三得 9
一四得(　)　二四得(　)　三四 (　)　四四 16
一五得(　)　二五　10　三五 (　)　四五(　)
一六得(　)　二六 (　)　三六 (　)　四六(　)
一七得(　)　二七 (　)　三七 (　)　四七(　)
一八得(　)　二八 (　)　三八 (　)　四八(　)
一九得(　)　二九 (　)　三九 (　)　四九(　)

3. 一件衣服钉 5 个纽扣。把 2 件、3 件、4 件衣服钉的纽扣个数填入下表。

衣服件数	1	2	3	4
纽扣个数	5			

4. 列式计算有多少只虾。



微信公众号：电子课本大全

5. 一共有几个？请你列式计算。



6. 有4个花盆、4组花，如果每个花盆种2株花，应挑哪一组花？

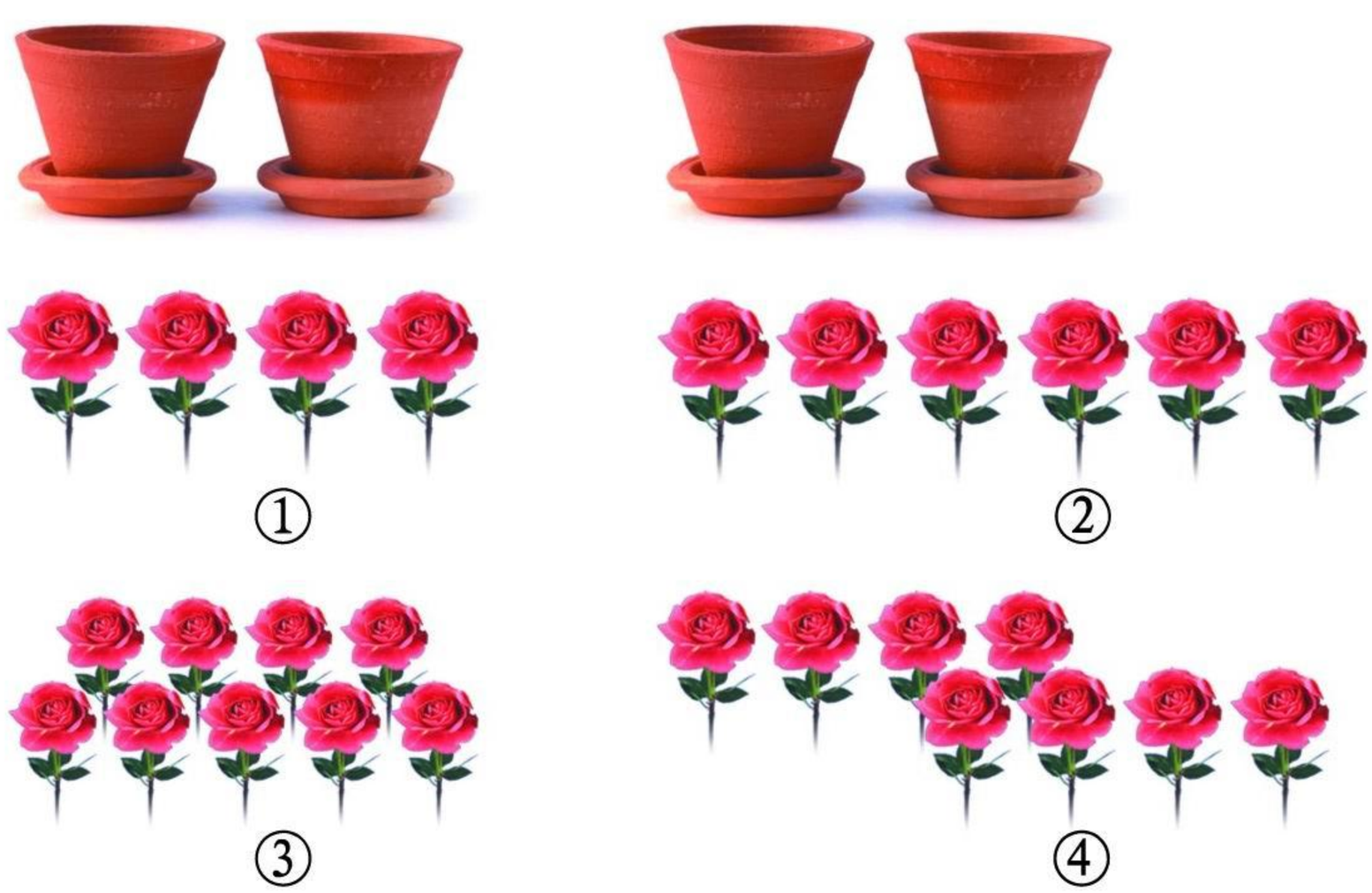

[2]

1. 计算。

9 × 3	4 × 6	4 × 9
27 + 8	24 + 9	36 + 7

2. 计算。

3 × 4 + 2 3 × 8 + 4	5 × 3 + 7 6 × 4 + 9	9 × 2 + 5 3 × 9 + 6

微信公众号：电子课本大全

3. 在价格上：



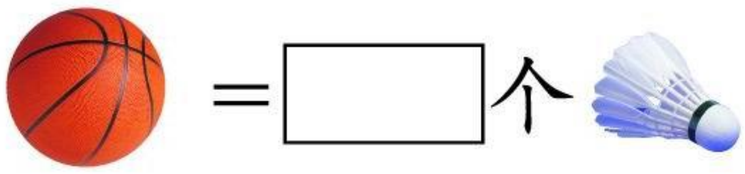

4. 右图中有几个□？
请你列式计算。

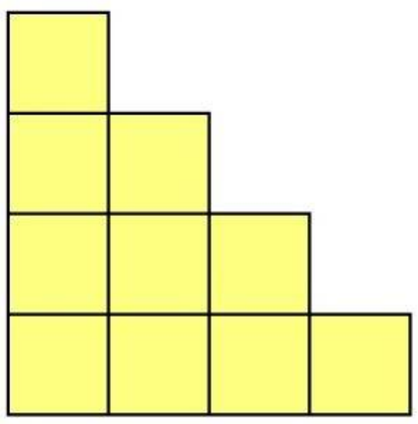

5. 有多少个三角形？

(1) 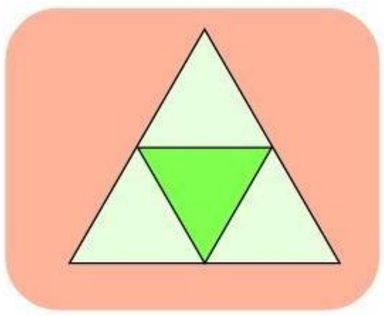
有(　　)个小三角形，有(　　)个大三角形，合起来有(　　)个三角形。

(2) 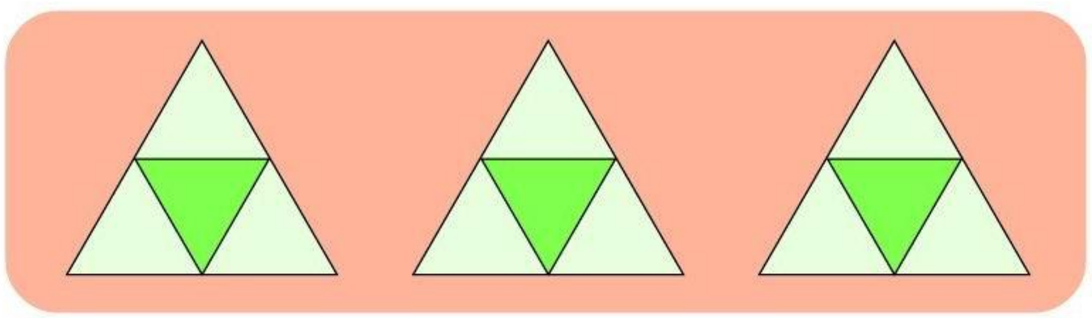
三角形的个数：□ × □ = □(个)

6.* 连接下面方格里的数，使它们的和是30。



9 × 3 + 3 = 30

1	2	3	4	5	6
7	8	9	10	11	12
13	14	15	16	17	18

2 + 8 = 10
1 + 9 = 10
10 × 3 = 30



你还有哪些连接方法？

微信公众号：电子课本大全

智慧乐园 二

1.



1 瓶水





2 壶水



4 杯水



1 瓶水



□杯水

2. 6 碗水可以装满 1 壶，4 壶水可以装满 1 桶，1 桶水可以装满□碗。



6 水 → 1  水

4  水 → 1  水

3.





 = □个 

微信公众号：电子课本大全

三 市场里的数



看一看，问一问。









微信公众号：电子课本大全





花有多少朵？怎样数比较方便？

摊位是怎样编号的？



你还能提出哪些数学问题？

微信公众号：电子课本大全

11 认识100与整十数

下面的大蒜有多少个？先猜一猜，再数一数。

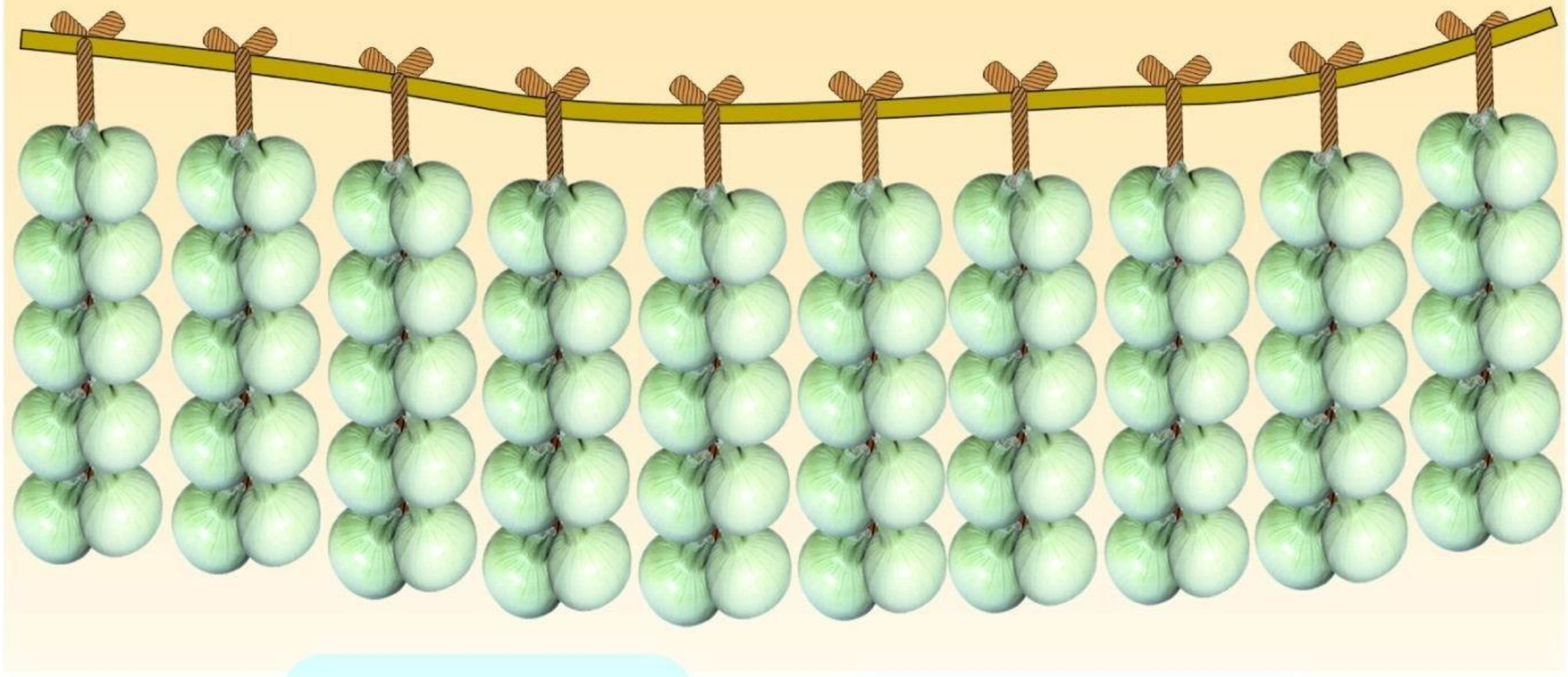

肯定比40多，可能有……

每串有10个。10，20，30，40，…

1. 看一看，拨一拨。

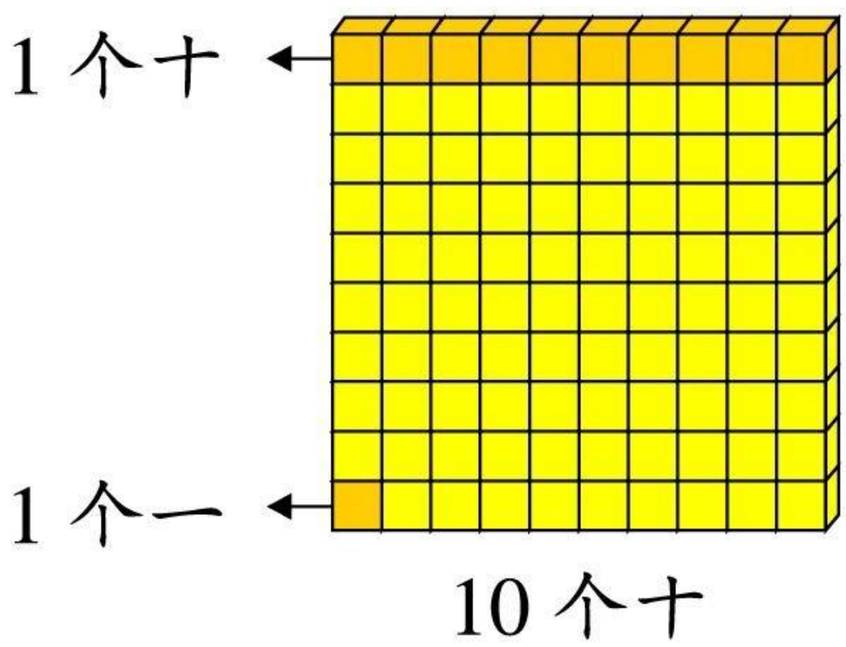

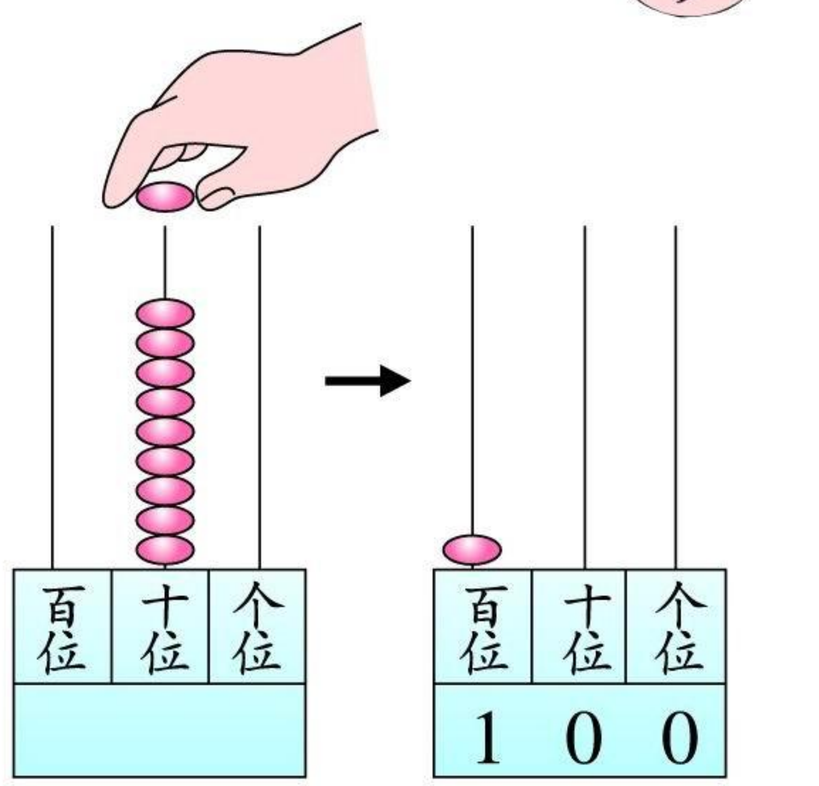

10个十是100。

10个10个地数：10，20，30，40，…

从40数到100：40，50，60，□，□，□，100。

微信公众号：电子课本大全

2. 摆卡片，写算式。

10	10	$10\times1=10$
10 10	10+10	$10\times2=\square$
10 10 10	10+10+10	$10\times3=\square$
10 10 10 10	10+10+10+10	$10\times4=\square$
10 10 10 10 10	10+10+10+10+10	$10\times\square=\square$
一直往下数，数到 10 个 10。		$10\times10=\square$



1. 比一比，算一算。

5 + 4 50 + 40	9 − 5 90 − 50	9 − 4 90 − 40
1 × 7 10 × 7	1 × 9 10 × 9	1 × 6 10 × 6

2. 填一填。

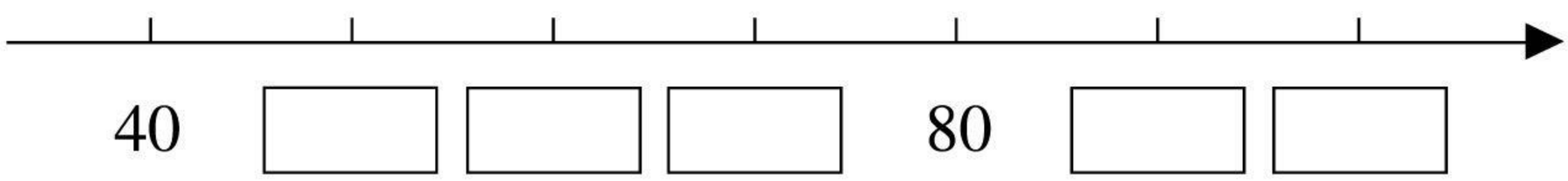

微信公众号：电子课本大全

12 100以内的数(二)

——41～100

1. 看图说一说有几支笔。

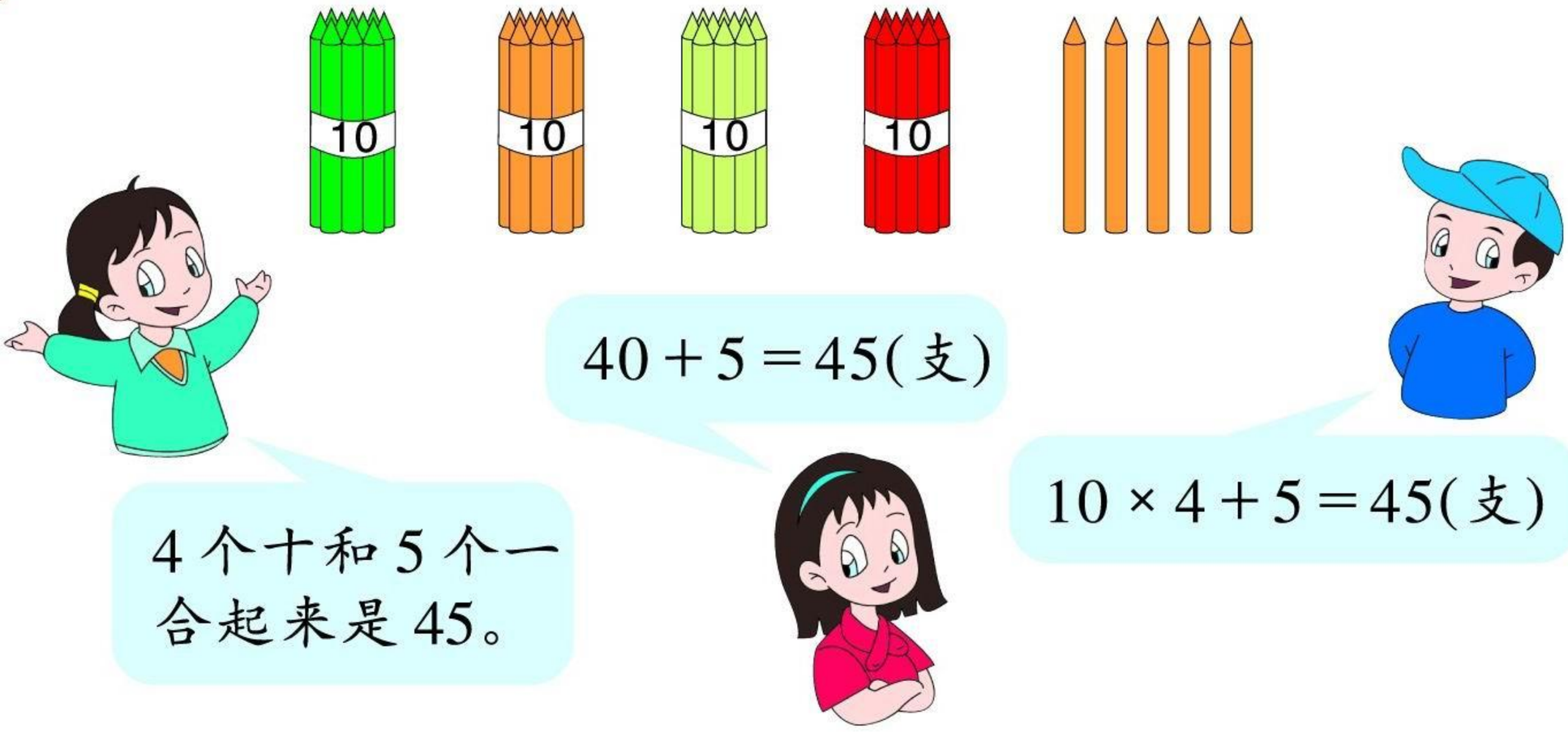

2. 看图在□里填数，说一说是几个十和几个一。

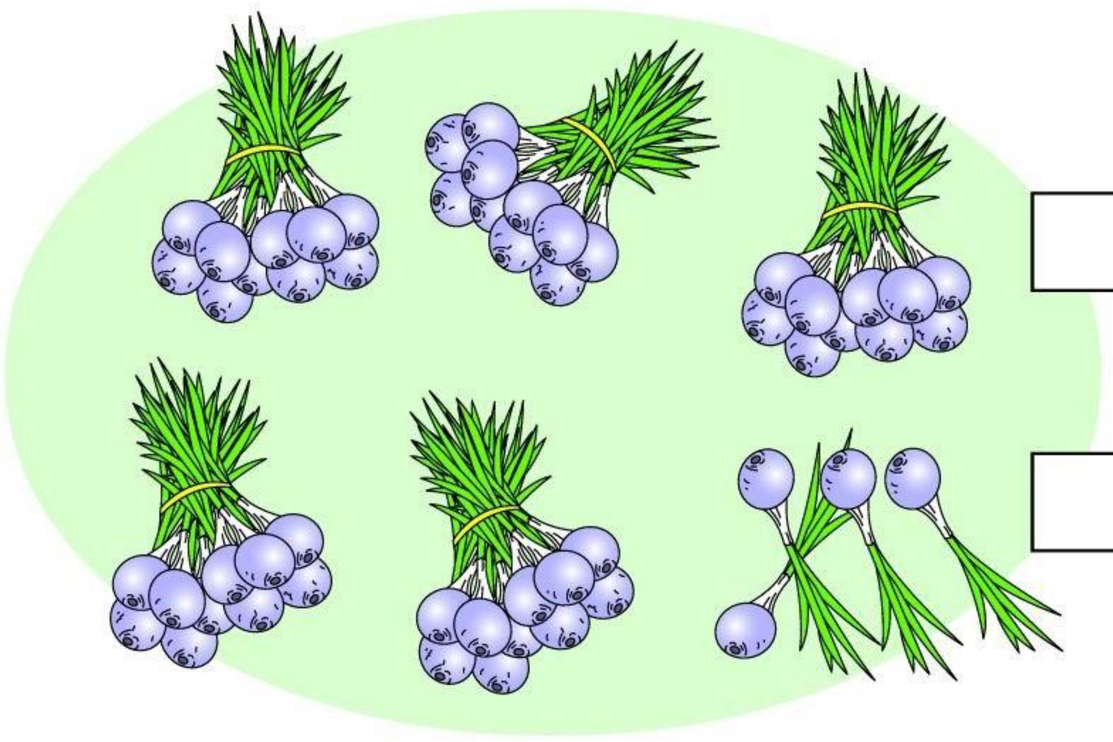

□ = 50 + □

□ = 10 × □ + □

3. 在□里填数。

$43 = 40 + \square$

$43 = 10 \times \square + \square$

$67 = 10 \times \square + \square$

$72 = 10 \times \square + \square$

微信公众号：电子课本大全

1. 按顺序将41～100各数填完整。

41		43		45		47		49	50
	52		54		56		58		60
									70
									80
									90
									100

2. 看计数器填数。

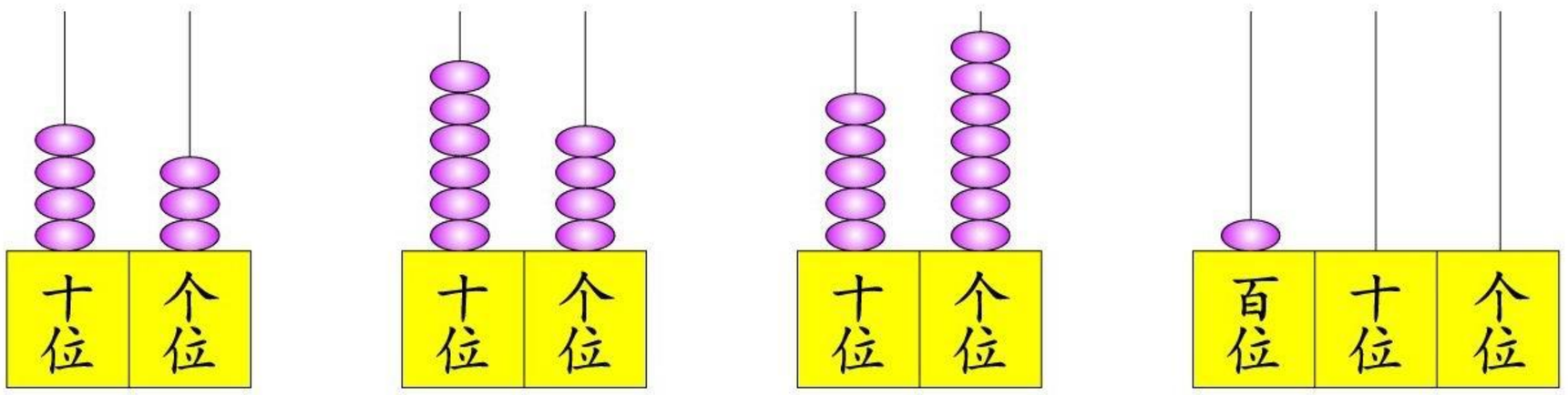

（　　）　　（　　）　　（　　）　　（　　）

3. 计算。

$10\times5+3$　　$10\times7+4$　　$85=10\times\square+\square$

$10\times6+7$　　$10\times4+9$　　$91=10\times\square+\square$

4. 用5个“•”表示不同的数，画一画，写一写。

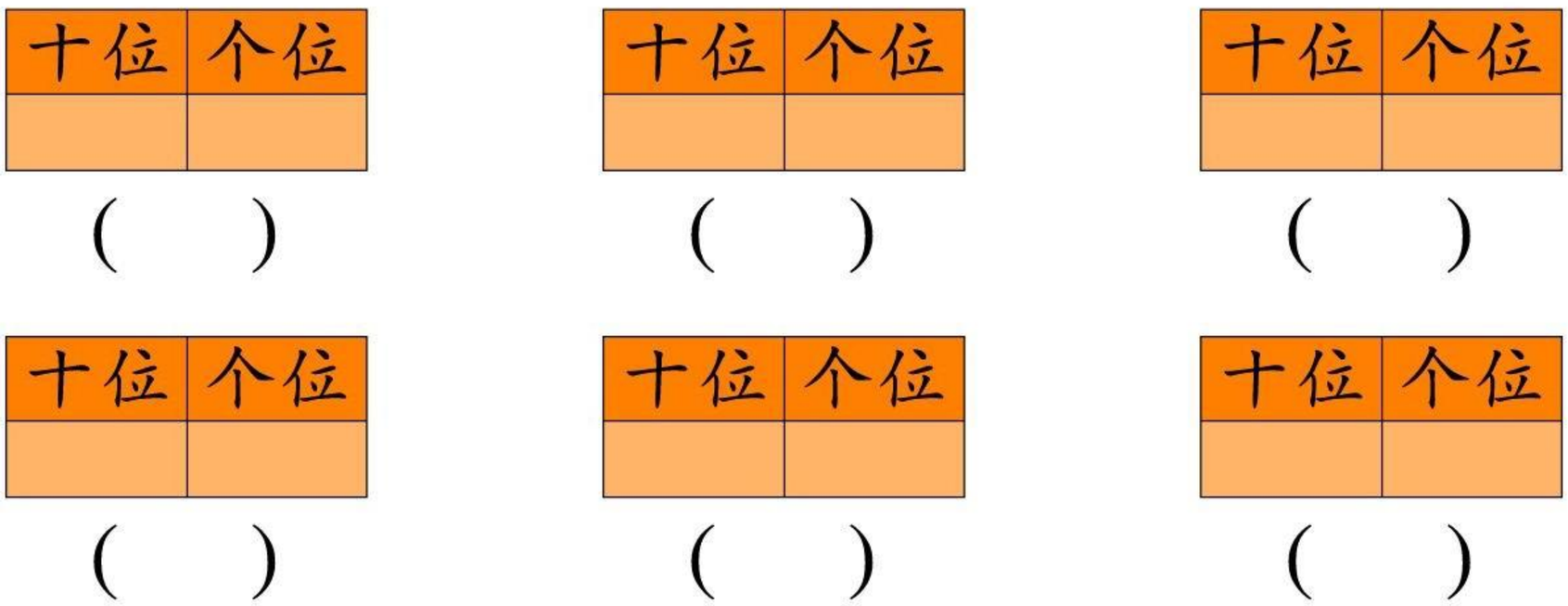

（　　）　　（　　）　　（　　）

（　　）　　（　　）　　（　　）

微信公众号：电子课本大全

13 找规律填数

看图提出问题。

1	2	3	4	5	6	7	8	9	10
11								19	
	22						28		
		33				37			
			44		46				
				55					
			64		66				
		73				77			
	82						88		
91								99	





1. 先回答问题，再找一找有什么规律，说给同伴听。

(1) 39，79，99后面的一个数分别是几？

(2) 50，60，90前面的一个数分别是几？

(3) 第4列(竖看称列)各数的个位上都是几？

(4) 第5行(横看称行)各数的十位上是什么数字？

(5) 33，46，87分别在表中的什么位置？

2. 根据上表，把下图所缺的数补上。

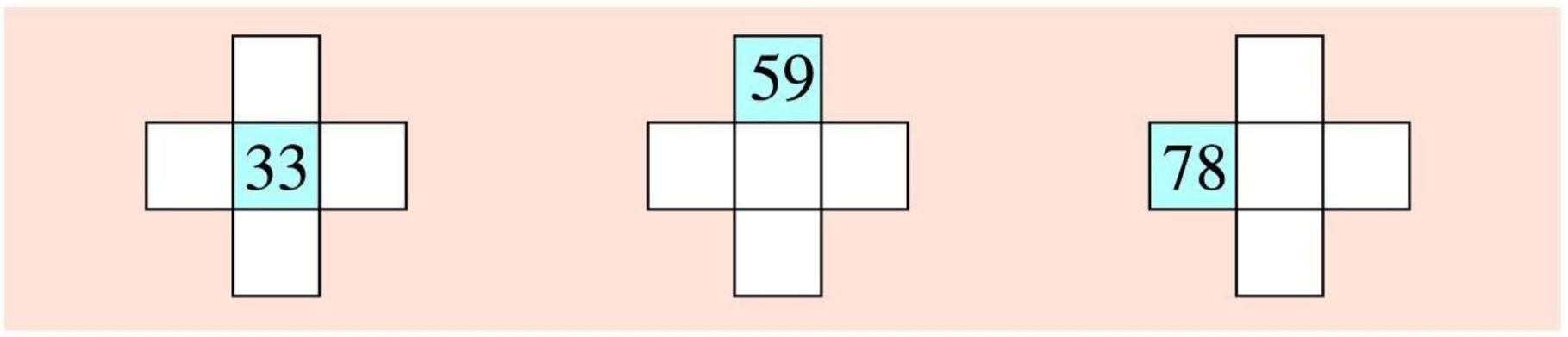

微信公众号：电子课本大全

1. 数给同桌听：从37数到55，从64数到53。

2. 根据第60页上的表格回答问题。

(1) 第7列第6个数是几？73是第几行第几个数？

(2) 斜行上的各个数有什么特点？

(3) 把下图所缺的数补上。

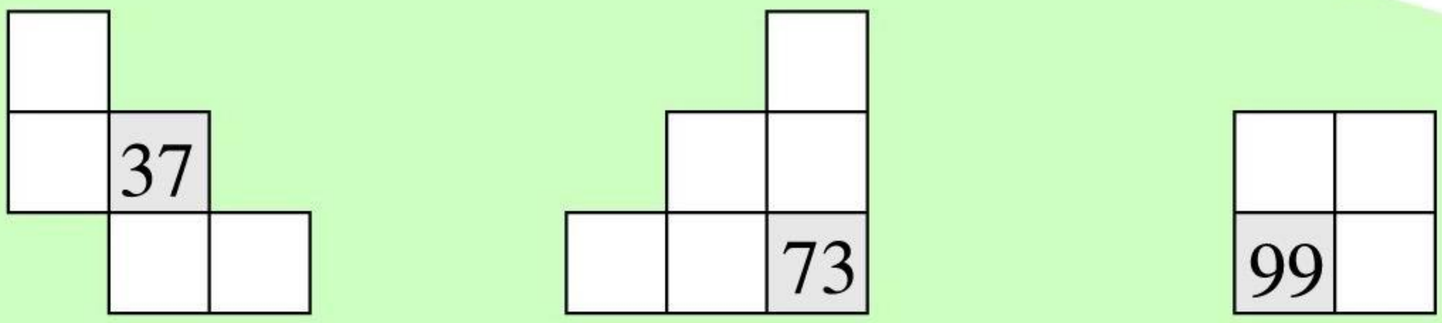

(4) 写出涂色格子里的数。

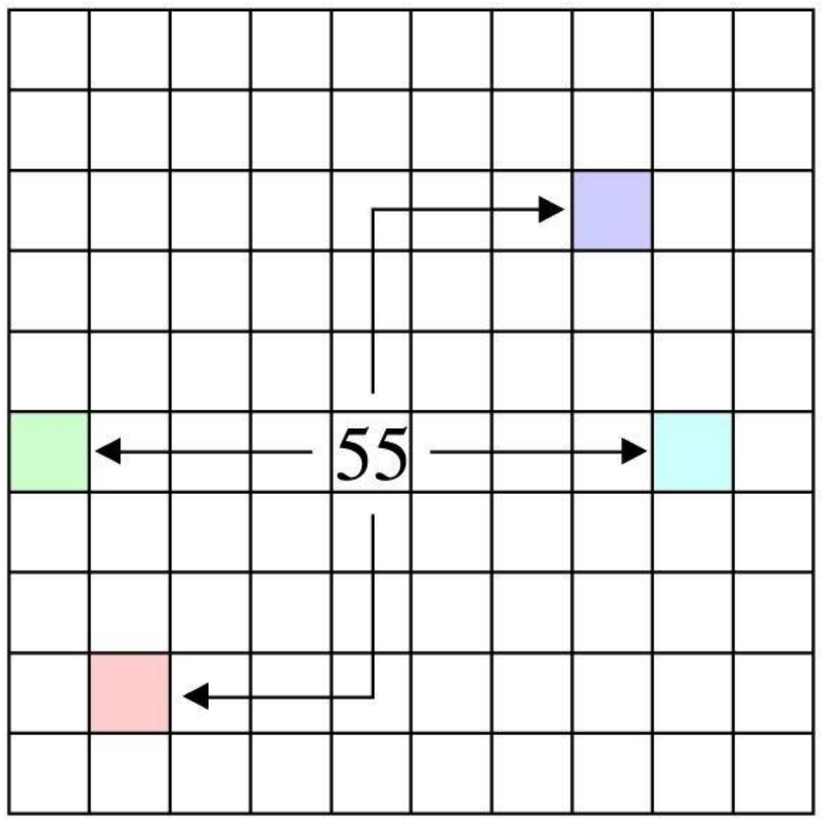

↱ 表示先向上，再向右。

← 表示向左。

→ 表示向右。

↵ 表示先向下，再向左。

□是(　　)，□是(　　)，□是(　　)，□是(　　)。

3. 在下面的□里填数，使它们有规律地排成一行。

(1) □ 45 □ 55 □ 65 □

(2) 25 □ □ 55 □ 75 □

微信公众号：电子课本大全

14 比较数的大小

1. 在4，5，8这三个数字中选出两个组成一些两位数。说一说你是怎么想的。



我写了45，48，84，85，…

我写了六个数：45，48，58，54，84，85。

2. 选两个数，比较大小。你是怎么想的？

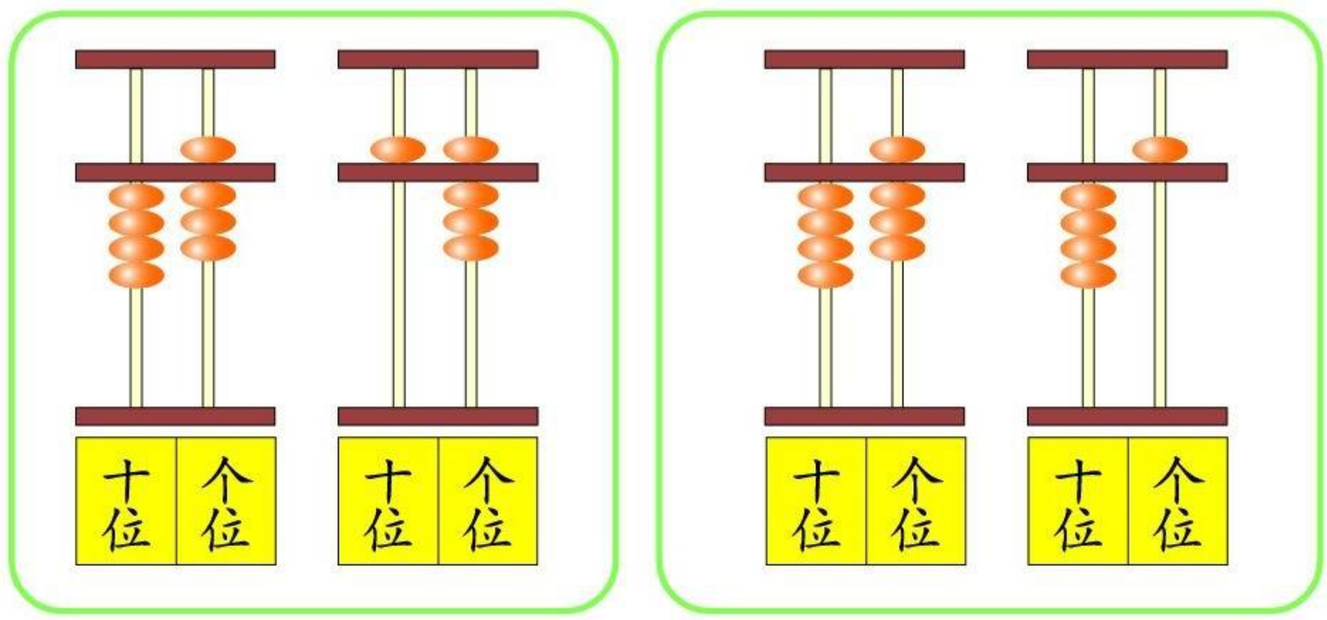

48 ◯ 58　　48 ◯ 45

十位上的数字大，这个数就大。十位上相同……



1. 在◯里填上“＞”或“＜”。

78 ◯ 75　　58 ◯ 85　　96 ◯ 79

57 ◯ 87　　54 ◯ 45　　37 ◯ 51

2. 选两个数，比较大小。

62　　68　　79　　59　　86　　95

□ ＞ □　　□ ＞ □　　□ ＞ □

3. 自己想两个数，比较大小，说一说比较的方法。

微信公众号：电子课本大全

4. 找朋友。



5. 摸卡片游戏。



规则

1. 轮流摸。
2. 先摸一张摆好，再摸下一张。
3. 数大的获胜。



十位	个位



微信公众号：电子课本大全

练一练 九

1. 想一想，写一写。

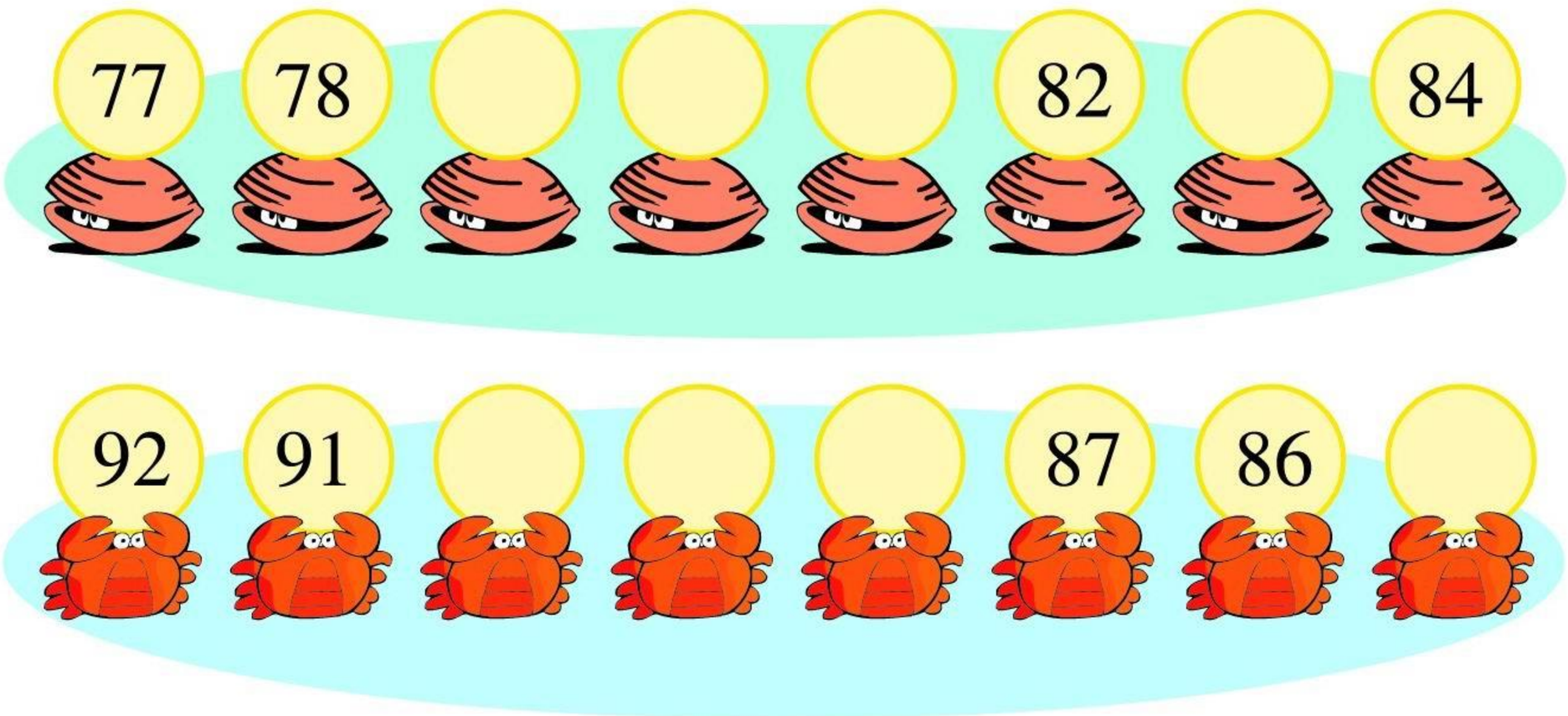

2. 先在□里填数，再在表格里把兔子跳到的数圈出来，小灰兔用○圈，小白兔用△圈。



1	2	3	4	5	6	7	8	9	10
11	12	13	14	15	16	17	18	19	20
21	22	23	24	25	26	27	28	29	30
31	32	33	34	35	36	37	38	39	40
41	42	43	44	45	46	47	48	49	50

微信公众号：电子课本大全

3. 计算。

20 + 50	40 + 10	40 + 40	30 + 60
70 − 50	50 − 10	80 − 40	90 − 30

10 × 8	10 × 6 + 20	10 × 4 − 20
10 × 10	10 × 6 − 20	10 × 3 + 30

4. 用点表示下列各数的位置，再用线连一连。

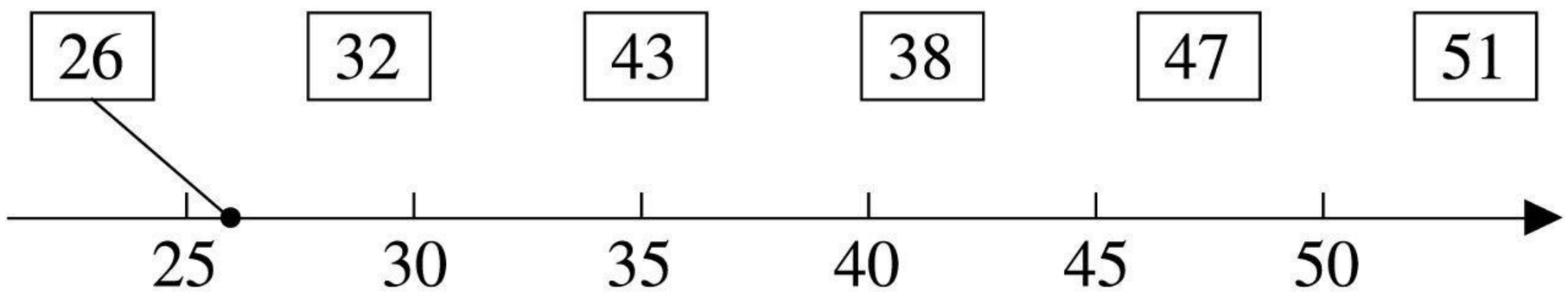

5. 谁和谁在通电话？用线连一连。



十位上是7，个位上是6，写做多少？

十位上是5，个位上是9。





82是由几个十和几个一组成的？

写做76。





59的十位上是几，个位上是几？

8个十和2个一。



6. 下面的图形分别表示几？

★ + 20 = 80

★ = (　　)

● + ● + ● + 20 = 80

● = (　　)

微信公众号：电子课本大全

15 不进位加法



妈妈今年39岁，生日那天，爸爸和聪聪送给妈妈39朵玫瑰。他们可能各送了几朵？



39 = 30 + 9
爸爸30朵，
聪聪9朵。



爸爸	聪聪
32	7
33	6

爸爸	聪聪
29	10
19	20

爸爸	聪聪
24	15
23	16



1. 想一想，算一算。

(1)
$$\begin{array}{r} 32 \\ +\ \ 7 \\ \hline 3\square \end{array} \qquad \begin{array}{r} 43 \\ +\ \ 5 \\ \hline \square\square \end{array} \qquad \begin{array}{r} 64 \\ +\ \ 3 \\ \hline \square\square \end{array} \qquad \begin{array}{r} 70 \\ +\ \ 6 \\ \hline \square\square \end{array}$$

(2)

十位	个位
●●	●●●
●	●●●

十位	个位
●●●	●●●
	●●●

:2:3
+:1:6
:3:9

$$\begin{array}{r} 41 \\ +\ 17 \\ \hline \square\square \end{array} \qquad \begin{array}{r} 52 \\ +\ 15 \\ \hline \square\square \end{array}$$

微信公众号：电子课本大全

2.



一共栽了多少棵树？ 25 + 32 = □(棵)

在小组里介绍你的算法。



$$\begin{array}{r} 25 \\ +\ 32 \\ \hline 57 \end{array}$$

个位上的数相加，十位上的数相加。



25+30=55

55+2=57





1. 看图写加法算式。

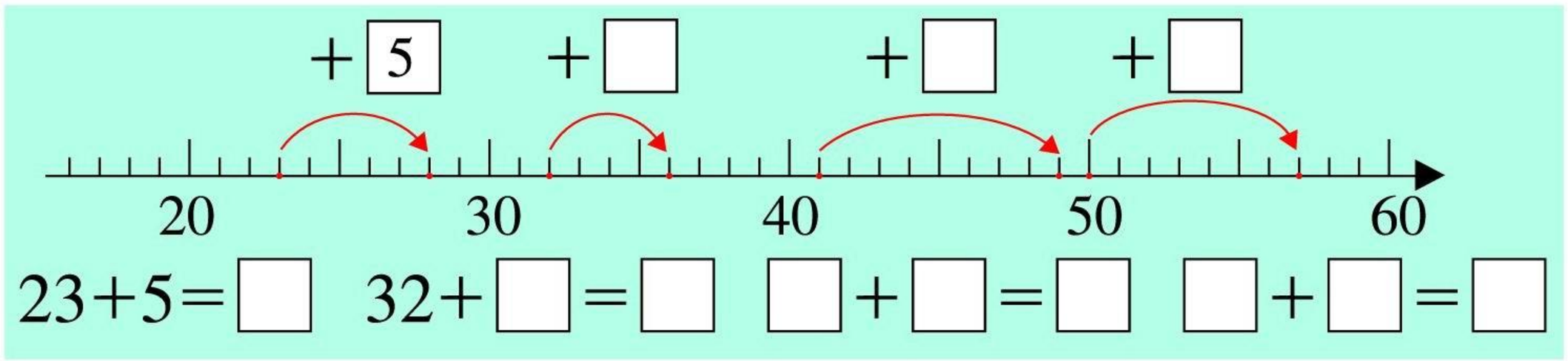

23+5=□　32+□=□　□+□=□　□+□=□

2. 计算。

40 + 56	5 + 34	33 + 4	18 + 70
36 + 42	21 + 67	15 + 22	52 + 3

微信公众号：电子课本大全

16 不退位减法



两种花共有39朵，其中  有19朵， 有□朵。

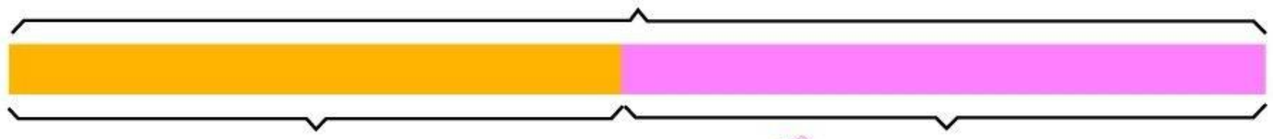

39 − 19 = □(朵)

在小组里说说你的计算方法。



39 − 10 = 29
29 − 9 = 20



30 − 10 = 20
9 − 9 = 0
39 − 19 = 20

$$\begin{array}{r} 39 \\ -\ 19 \\ \hline 20 \end{array}$$

个位上的数相减，
十位上的数相减。



1. 看图列式计算。

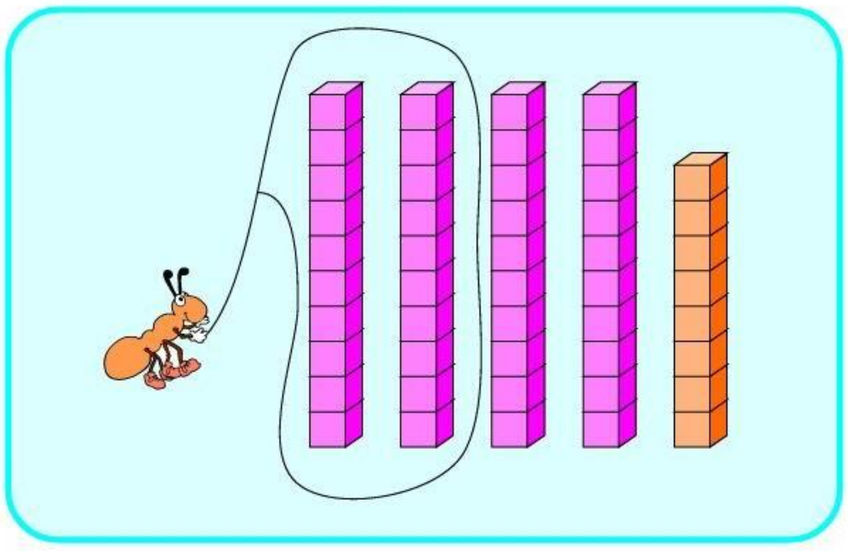

48 − □ = □

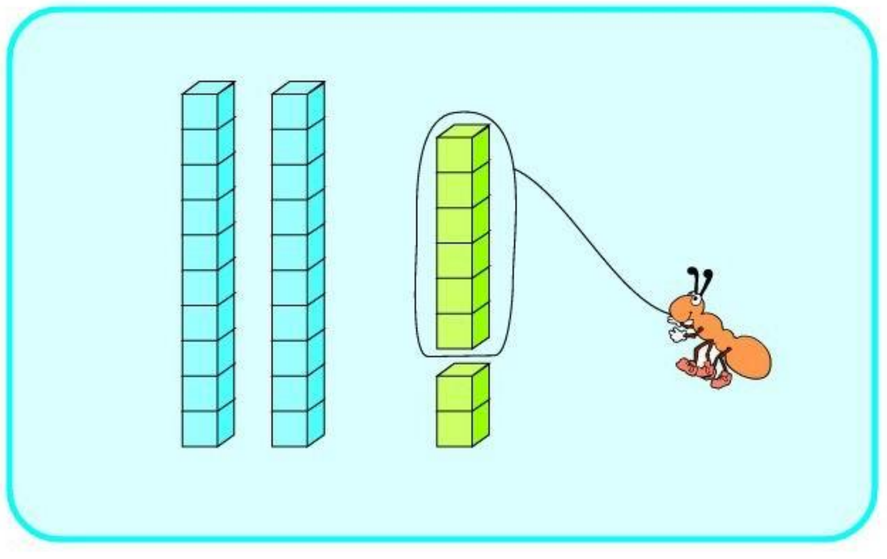

28 − □ = □

微信公众号：电子课本大全

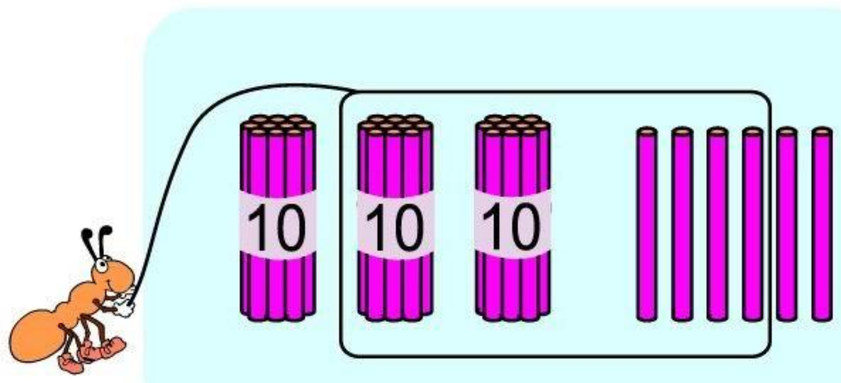

□ − □ = □

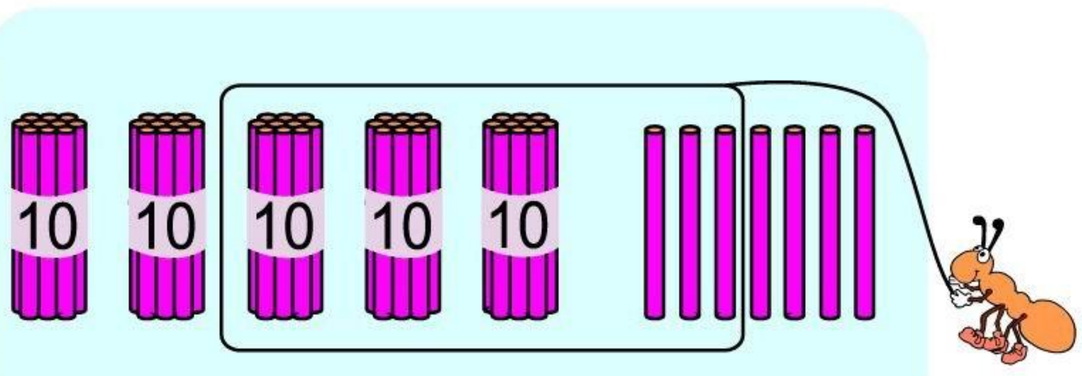

□ − □ = □

2.

4 8	7 5	6 9	8 8
− 6	− 1 5	− 3 7	− 3 4
□□	□□	□□	□□

3. 看图列式计算。

(1)



原来有 55 台

卖出 30 台 还剩 □ 台

(2)

现有 78 册

原有 □ 册　　新买 36 册

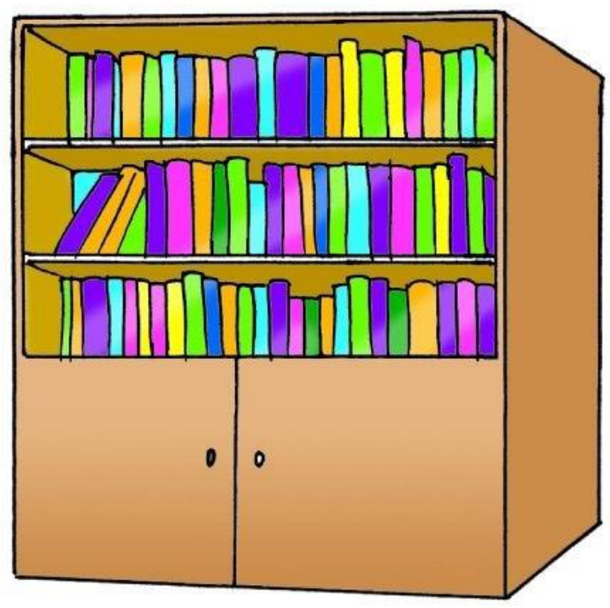

4. (1) 草地上有 28 只兔，灰兔有 15 只，其余的是白兔。白兔有 □ 只。

(2) 草地上原来有13只白兔，又跑来9只白兔。草地上现在有 □ 只白兔。

微信公众号：电子课本大全

练一练 十

1. 计算。

12 + 7	14 + 3	13 + 5
32 + 7	64 + 3	83 + 5

2. 算一算，比一比。

18 − 5	19 − 6	58 − 3
78 − 5	39 − 6	58 − 35

3. 列竖式计算。

51 + 46	42 + 15	23 + 64
97 − 46	57 − 15	87 − 64

4. 把信投到相应的信箱里。



微信公众号：电子课本大全

5. 依次在□里填得数。

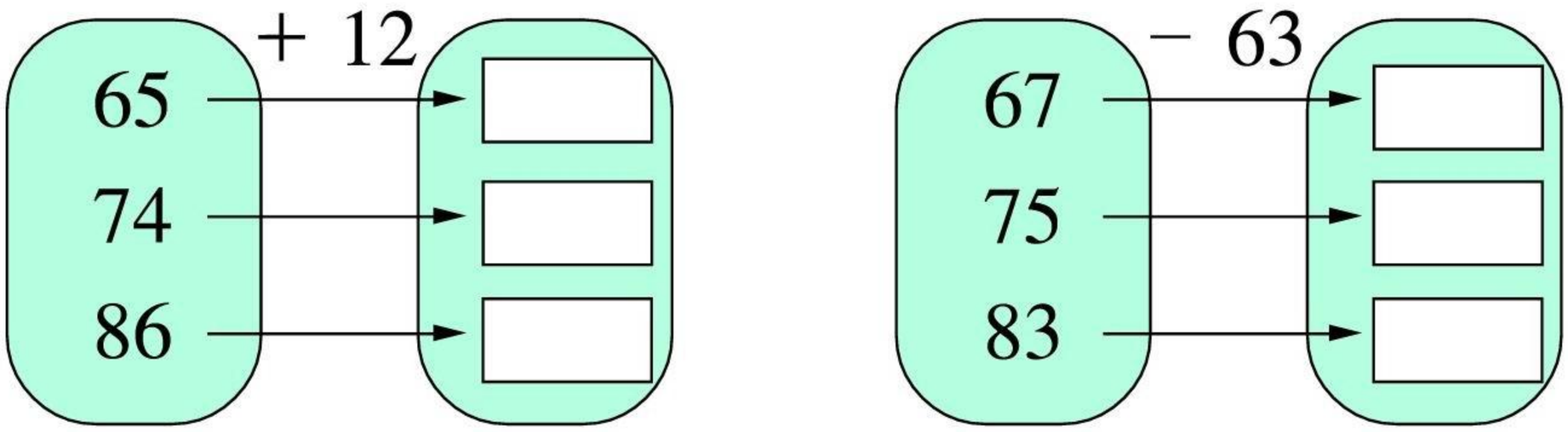

6. 比一比，算一算。

7 + 3 17 + 3	12 + 8 42 + 8	53 + 6 54 + 6
10 − 7 40 − 7	10 − 6 50 − 6	10 − 8 70 − 8

7. 算一算，想一想。

4 + 9 50 + 13 54 + 6 + 3 54 + 10 − 1	6 + 8 20 + 14 26 + 4 + 4 26 + 10 − 2	5 + 7 30 + 12 35 + 5 + 2 35 + 10 − 3

8.* 在□里填数。

8 + 10 = □ − 10　　39 − 12 = □ + 12

□ + 21 = □ − 21　　□ − 30 = □ + 30

微信公众号：电子课本大全



整理与应用 三

1. 在这一章里你学会了什么？



我认识了 100 以内的数。

我会计算像 23 + 45，78 − 16，… 这样的题。



2. 数一数。

(1) 2 个 2 个数，从 57 数到 83。

(2) 5 个 5 个数，从 20 数到 60。

(3) 20，20 地数，从 0 数到 100，数了几次？

3. 填一填。

(1) 8 个十和 6 个一组成的数是(　　)。

(2) 34 里的“3”在(　　)位上，表示(　　)个(　　)。

(3) 把 52，47，68，70，25，86 这六个数从小到大排列，70 是第(　　)个数。

4. 计算。

32 + 7

69 − 6

23 + 64

96 − 51

27 + 42

61 + 17

微信公众号：电子课本大全

5. 在◯里填“＞”、“＜”或“＝”。

76 − 24 ◯ 50　　10 ◯ 70 − 60

21 + 38 ◯ 59　　8 ◯ 58 − 5

39 + 40 ◯ 80　　57 ◯ 24 + 32

6. 公园里的花。

		
44 枝	36 枝	23 枝

(1)  比  少多少枝？

(2)  比  多多少枝？

你还可以提出什么数学问题？

7. 提出数学问题，并解答。



小鸡	23 只
小鸭	35 只
小兔	12 只

微信公众号：电子课本大全

四 商店里的计算



看一看，问一问。



3.50 元是几元几角？

迪迪买一袋，付出50元，应找回多少元？



微信公众号：电子课本大全



微信公众号：电子课本大全

17 认识人民币

说一说，你认识哪些面值的人民币？







上面这些人民币可以怎样分类？






1 角 = ☐ 分　　1 元 = ☐ 角



1. 填一填。

(1) 3 角 = ☐ 分　5 元 = ☐ 角　80 角 = ☐ 元

(2)



☐ 元 ☐ 角

微信公众号：电子课本大全

(3)



□元



□元

2. □张  可以换 1 张  。

□张  可以换 1 张  。

□张  可以换 1 张  。

数学百花园

中国古代的钱币。



微信公众号：电子课本大全

18 几元几角

看图读一读价格，说一说意思。





3.50 元读做三点五零元。



5.20 元就是 5 元 2 角。2.50 元的小圆点把元和角分开了。





每个要三点五零元，就是 3 元 5 角。

1. 迪迪有下面一些钱，买一样商品，怎样付钱？

















如买 1 盒 

。

如果买……



微信公众号：电子课本大全

2. 买 1 张

和 1 张

，一共要付几元几角？

80 分 = ☐ 角

8 角 + 6 角 = ☐ 角

= ☐ 元 ☐ 角



1. 连一连。



5 角



45.80 元



35.00 元



1 元 2 角

45 元 8 角

1.20 元

0.50 元

35 元

2. 1 元钱可以买哪些学习用品？

6 角 

2 角 

1 元 

8 角 

1 角 

1 元 5 角 

(1) 可以买 ☐ 支  。

(2) 要买 1 个  ，还差 ☐ 角。

(3) 如果买 1 把  ，应找回 ☐ 角。

(4) 想买 1 本  、1 块  和 2 支  ，钱够吗？

微信公众号：电子课本大全

19 进位加法(一)

看图提出用加法计算的问题。





买 1 只  和 1 个 ，一共要多少元？

我想买……



你会计算 35 + 7 = □ 吗？说说你的计算方法。

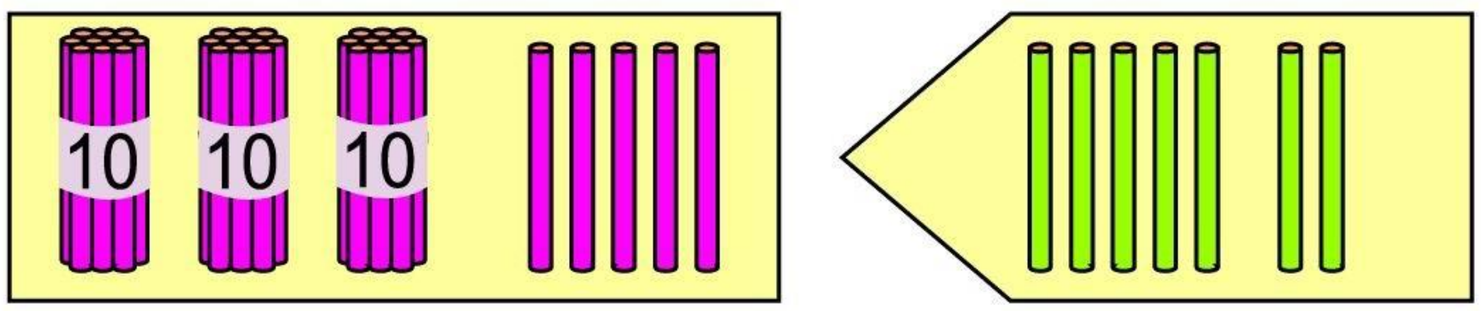

微信公众号：电子课本大全

$$35 + 7 = 42$$



12

$5 + 7 = 12$

$30 + 12 = 42$

$$\begin{array}{r} 3\ 5 \\ +\ \ {}_{1}7 \\ \hline 4\ 2 \end{array}$$

个位满十，
向十位进1。



$35 + 7 = 42$

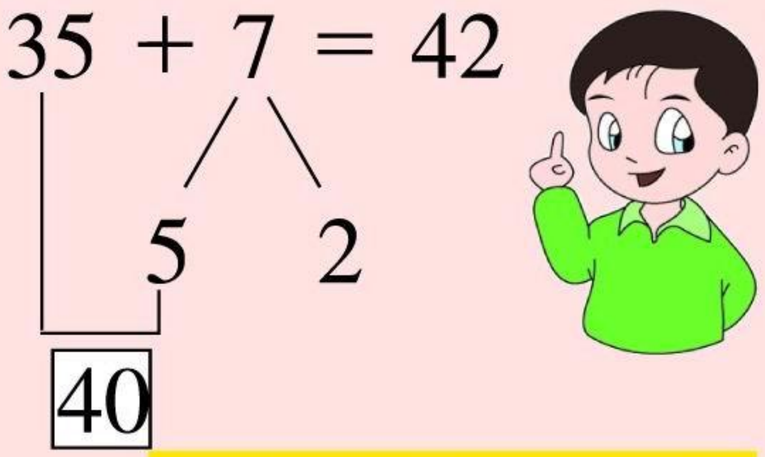

40

$35 + 5 = 40$

$40 + 2 = 42$

$35 + 7 = \square$

$35 + 10 - 3 = 42$





1. 看图列式计算。

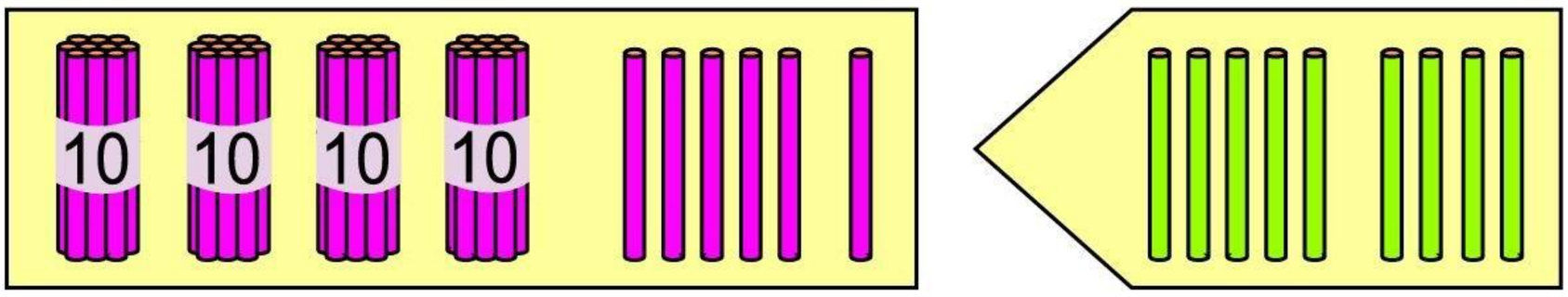

□ + □ = □（个）

2. 解答你提出的问题。

3. 讨论：36，45，72这三个数分别与4，8，6相加时，哪些是个位满十的？

微信公众号：电子课本大全

练一练 十一

1.

28 + 4	16 + 8	24 + 7
38 + 4	56 + 8	44 + 7
48 + 4	76 + 8	54 + 7

2.

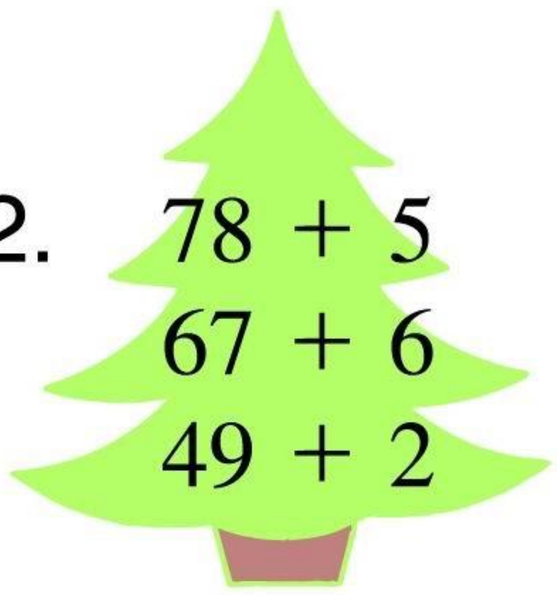

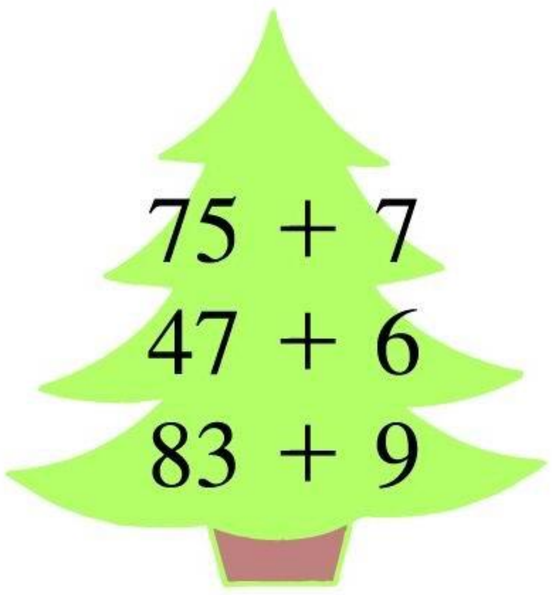

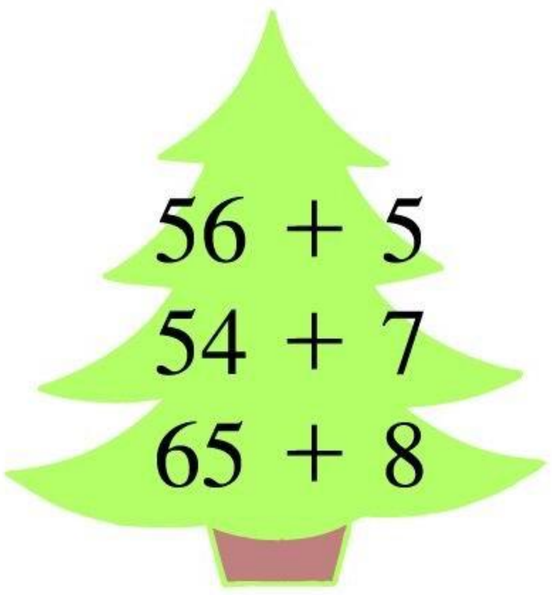

3. 看图在□里填一位数。

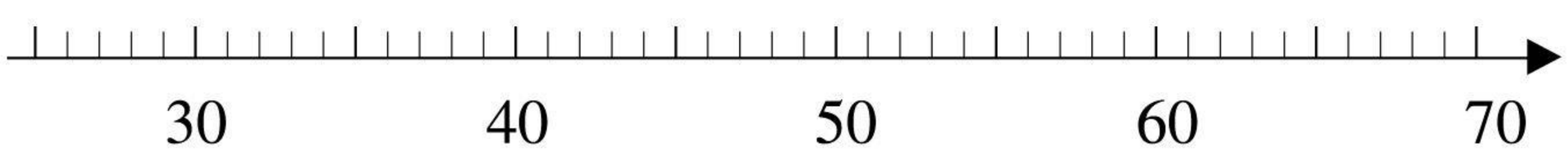

35 + □ > 40

47 + □ > 51

70 < 64 + □

42 < 38 + □

4. 在□里填数。

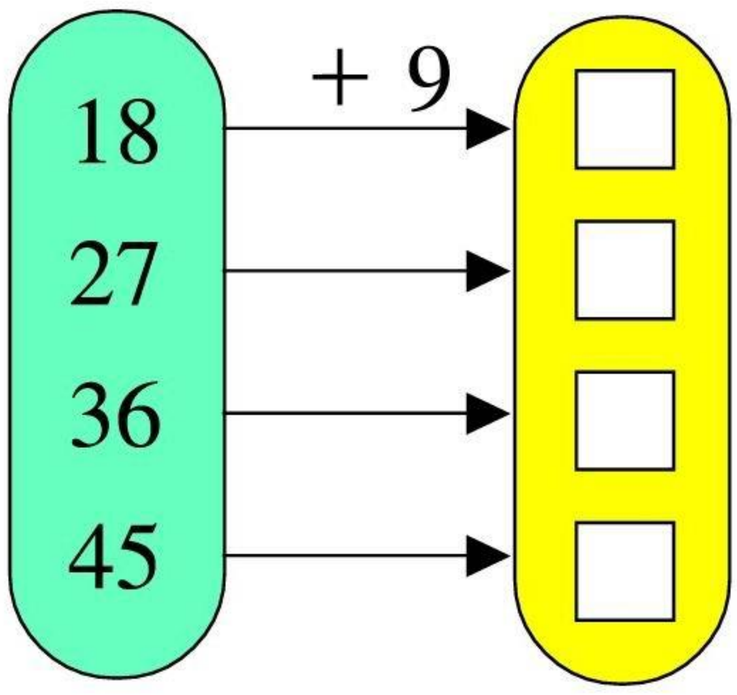

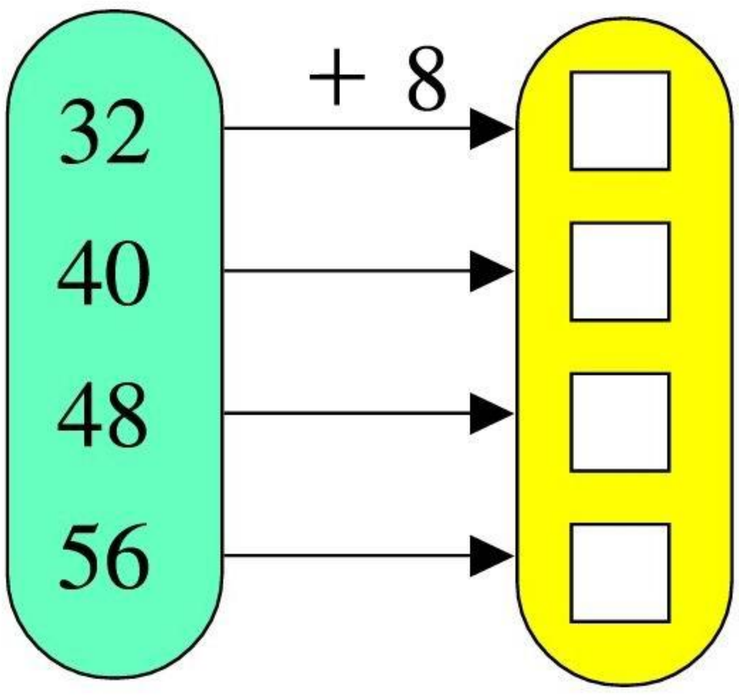

微信公众号：电子课本大全

5. 在□里填数。

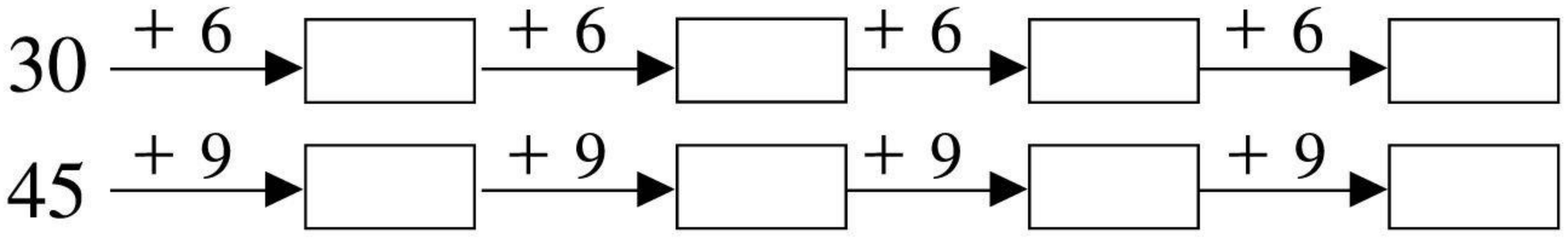

6. 从2，3，5，7，8这五个数字中挑三个，组成两位数加一位数的进位加法算式，看谁写得对，算得对。



23 + 7，27 + 5，
25 + 7，25 + 8，
…

32 + 8，35 + 8，
37 + 8，35 + 7，
…



7.  代表9， 代表7。



□ × □ + □ = □

8.* ★、▲、● 分别表示不同的数字，请用竖式表示出来。



★	5			
▲	6			
●	0			

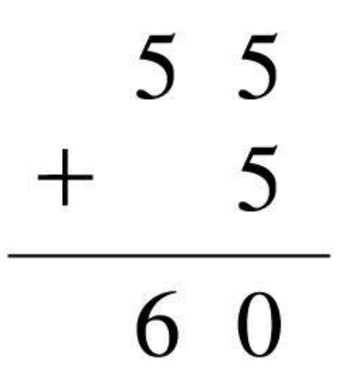

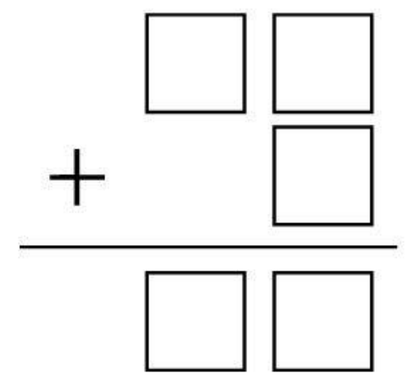

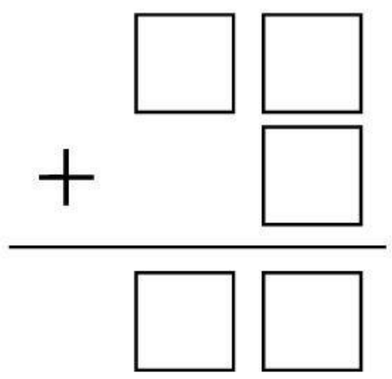

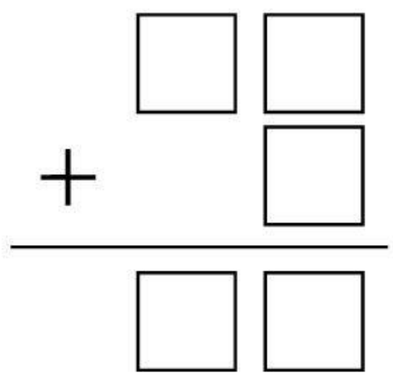

微信公众号：电子课本大全

练一练 十二

1. 计算。

39 + 4	32 + 9	45 + 7	36 + 5
48 + 5	54 + 7	56 + 4	64 + 7
53 + 9	79 + 3	28 + 6	27 + 9
75 + 6	87 + 5	65 + 8	49 + 4

2. 计算。

42 + 7	48 + 8	45 + 9
49 + 7	56 + 8	54 + 9
56 + 7	64 + 8	63 + 9
63 + 7	72 + 8	72 + 9

3. 找规律，填一填。



微信公众号：电子课本大全

4. 看图列式计算。一共有多少朵花？



□朵

□ ○ □ ○ □ = □（朵）

5. 说一说，填一填。



20元

每只5元



□元

一共要□元

6. 在□里填数。

52 = 40 + □

12 − 7 + 40 = □

64 = 50 + □

14 − 8 + 50 = □

7. 计算。

52 − 2 − 5	50 − 7 + 2	52 − 10 + 3
64 − 4 − 4	60 − 8 + 4	64 − 10 + 2
43 − 3 − 6	40 − 9 + 3	43 − 10 + 1

8.* □、△、⊙表示不同的数字，有哪些可能？用竖式表示出来。

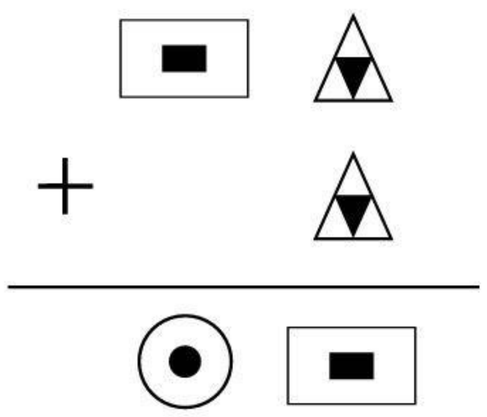

□只能是2，4，6，8。

如：

$$\begin{array}{r} 26 \\ +\ \ 6 \\ \hline 32 \end{array} \qquad \begin{array}{r} 68 \\ +\ \ 8 \\ \hline 76 \end{array} \quad \cdots$$



微信公众号：电子课本大全

20 退位减法(一)



从上面的数字中选三个，组成两位数减一位数的算式。



比较 36 − 2 与 36 − 9 的计算方法。

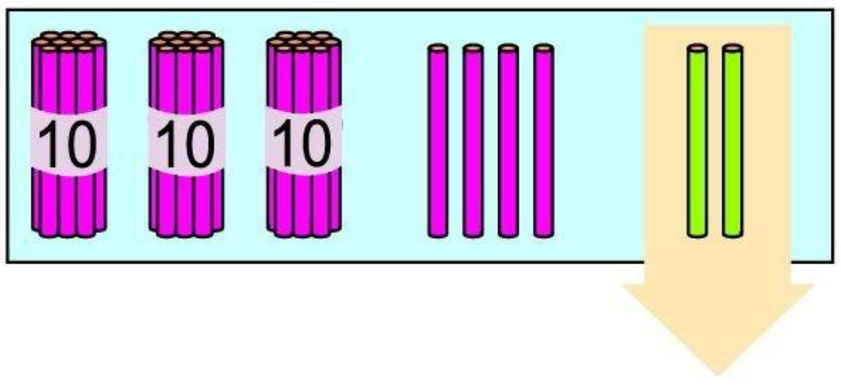

$36 - 2 = 34$

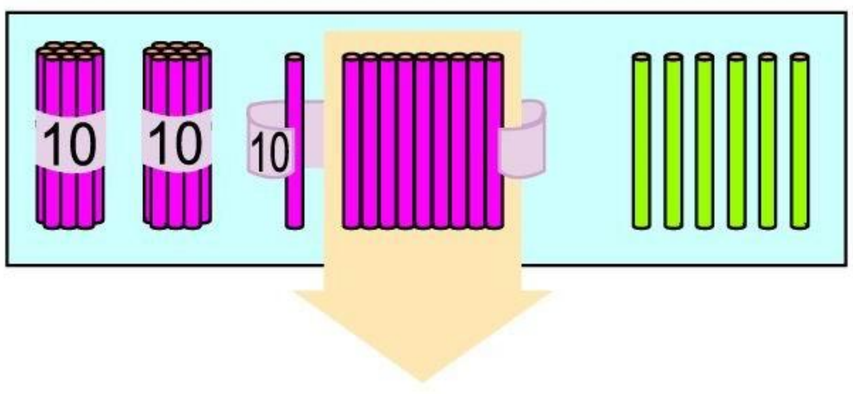

$36 - 9 = \square$

微信公众号：电子课本大全

大家来交流 36 − 9 = □ 的计算方法。



$36 - 9 = 27$

$20 \quad 16$

□

7

$16 - 9 = 7$

$20 + 7 = 27$



$36 - 9 = 27$

$6 \quad 3$

□

30

$36 - 6 = 30$

$30 - 3 = 27$





$36 - 9 = 27$

$26 \quad 10$

□

1

$10 - 9 = 1$

$26 + 1 = 27$

$36 - 9 = \square$

$36 - 10 + 1 = 27$



$\begin{array}{r} \dot{3}\,6 \\ -\quad 9 \\ \hline 2\,7 \end{array}$	个位不够减，从十位退 1 再减。



1. 看图写算式。

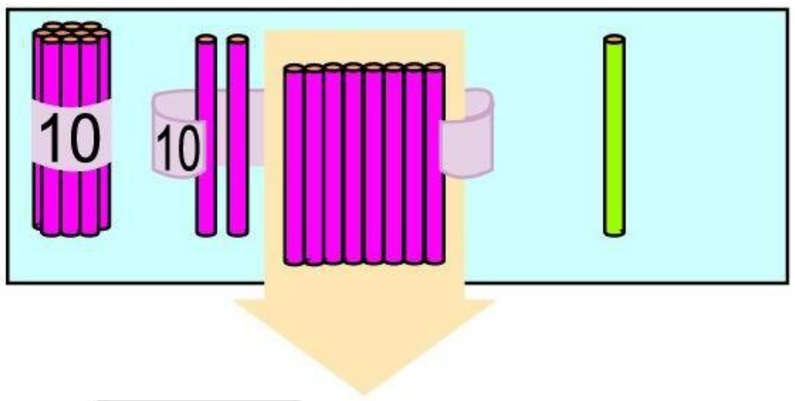

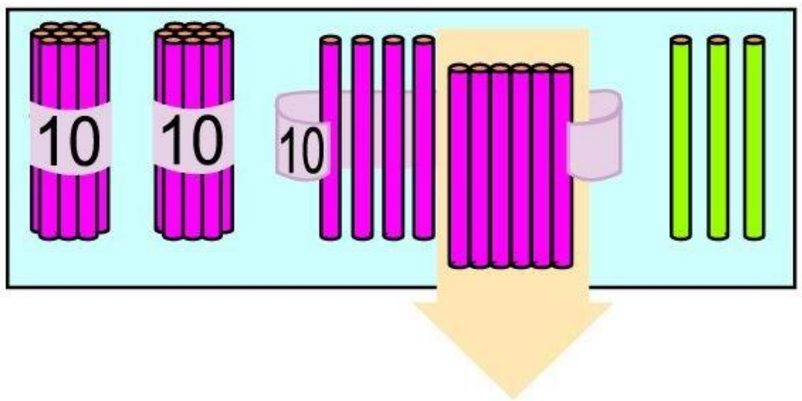

2. 在□里填数。

$12 - 7 = 5$

$32 - 7 = \square$

$52 - 7 = \square$

$41 - 3 = \square$

$63 - 5 = \square$

$75 - 7 = \square$

微信公众号：电子课本大全

练一练 十三

1. 计算。

11 − 3	13 − 8	15 − 7
31 − 3	23 − 8	55 − 7
51 − 3	43 − 8	75 − 7

2. 计算。

42 − 4	64 − 9	45 − 7
53 − 5	25 − 6	52 − 6
65 − 8	41 − 3	81 − 2

3. 在□里填一位数。

43 − □ < 40	28 > 30 − □
51 − □ < 45	56 > 61 − □
62 − □ < 58	47 > 53 − □

4. 在□里填数。

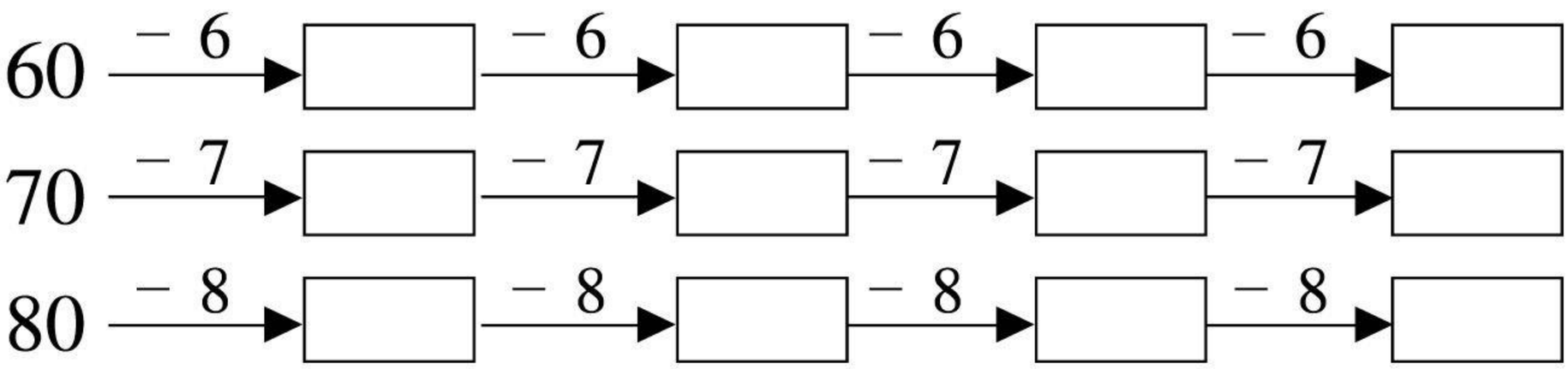

5. 从2，4，6，7，9这五个数字中选3个，组成两位数减一位数的退位减法算式。看谁写得对，算得对。

微信公众号：电子课本大全

6. 在□里填数。

$7 + \square = 42$

$42 - 7 = \square$

$\square - 8 = 36$

$36 + 8 = \square$

7. 在□里填数，在○里填“＋”或“－”。

$9 + ⬢ = 52$

$⬢ = \square \bigcirc \square$

$⬢ = \square$

$⬟ - 7 = 45$

$⬟ = \square \bigcirc \square$

$⬟ = \square$

8. 找规律，填一填。

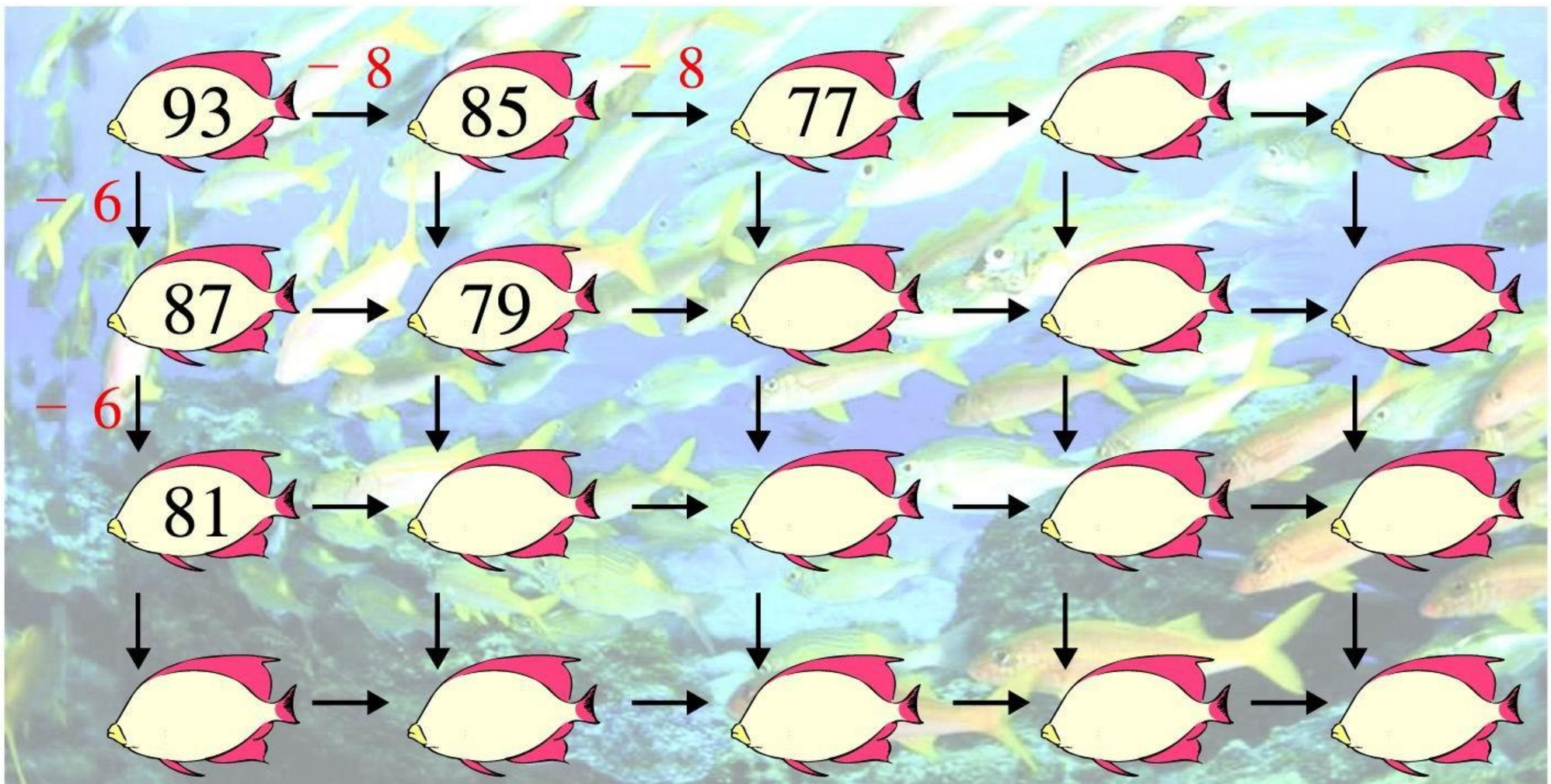

9.* 在□里填数，说一说你是怎样想的。

$20 + 7 = \square - 7$

$39 - 6 = \square + 6$

微信公众号：电子课本大全

练一练 十四

1. 竖式计算。

42 − 7	35 − 8	64 − 9

2. 计算。

26 − 8 55 − 9 82 − 5	33 − 4 48 − 7 37 − 9	61 − 5 49 − 8 53 − 6

3. 花园新村去年和今年一共建造了32幢住宅楼。去年建造了9幢，今年建造了多少幢？

□ ○ □ = □（幢）



4. 在□里填数。

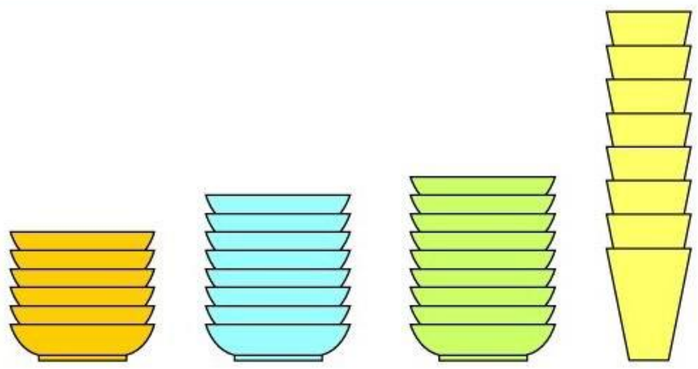

碗有23只，
杯子有8只，
碗比杯子多□只。

原来有鸡蛋62个，
打破了9个，
还有鸡蛋□个。



微信公众号：电子课本大全

5. 哪把钥匙开哪把锁？(用线连一连)



6. (1) 苹果有4袋，每袋6个。一共有多少个？

(2) 苹果一共有24个，梨有12个。梨比苹果少多少个？

7. 下面各图形分别表示几？

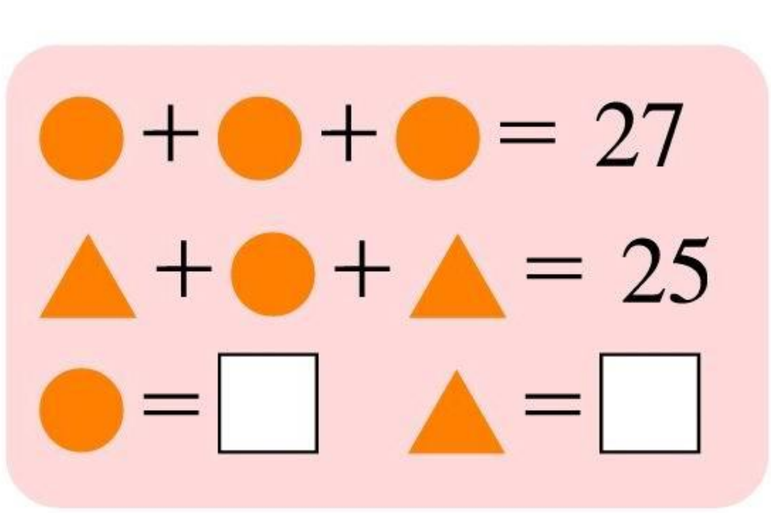

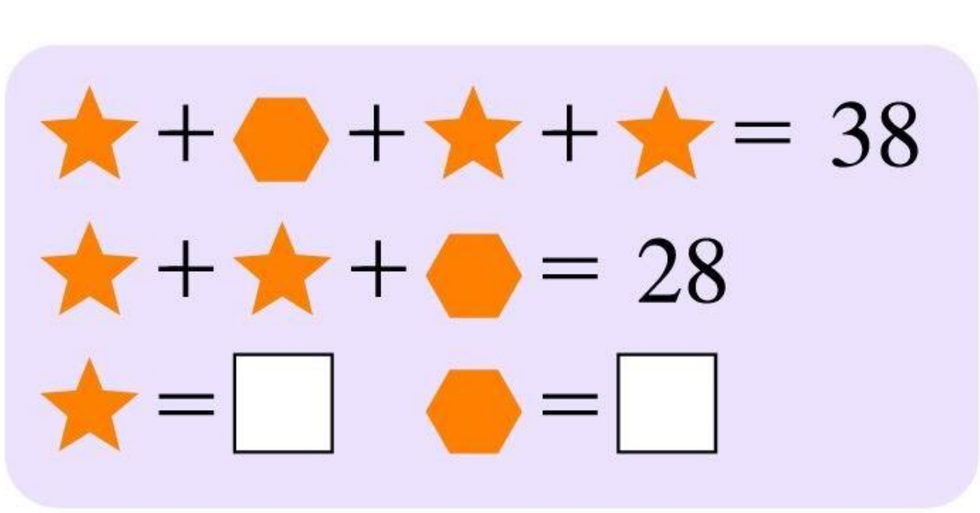

8.* ▲、●、★分别表示不同的数字，请用竖式表示出来。



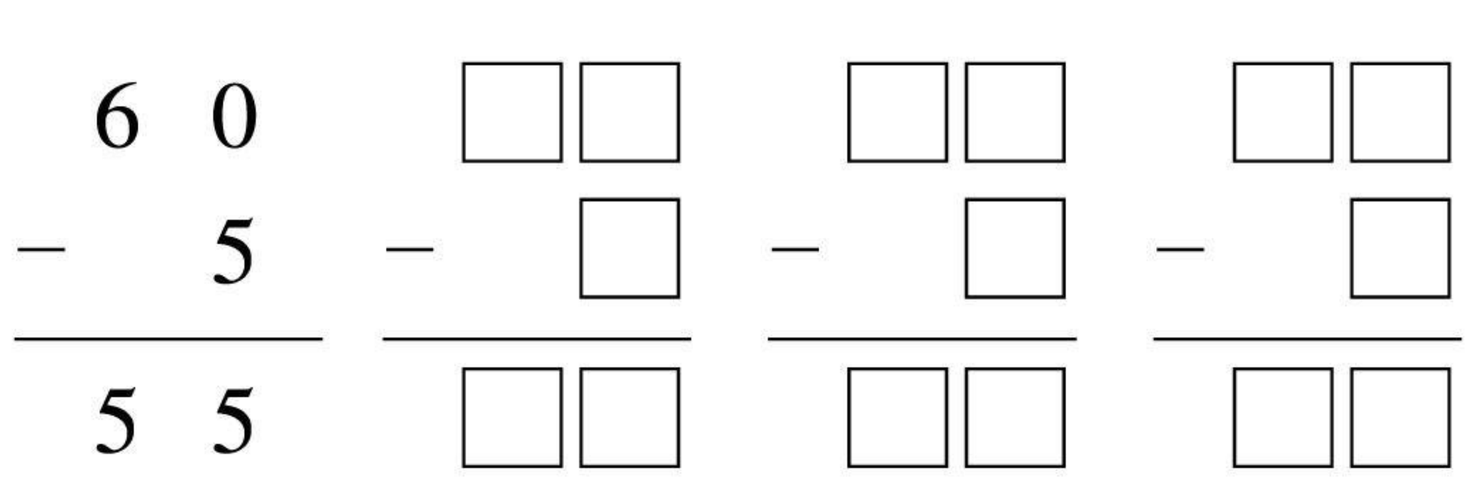

微信公众号：电子课本大全

21 乘 减



1. 11个点子，4个4个圈。

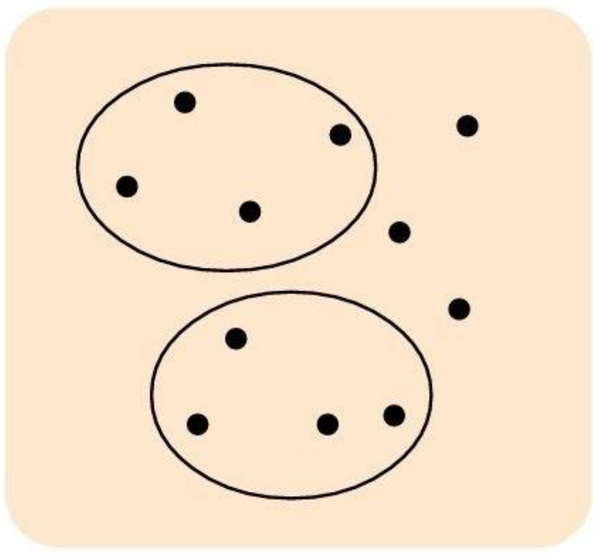

(1) 圈2次，还多□个点子。

$4 \times 2 + \square = 11$(个)

(2) 如果圈3次，少□个点子。

$4 \times 3 - \square = 11$(个)

2. 19个点子，5个5个圈。

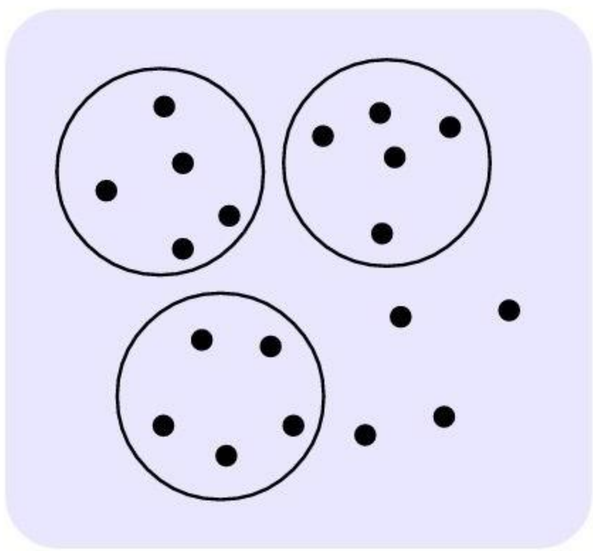

(1) 圈3次，还多□个点子。

$5 \times 3 + \square = 19$(个)

(2) 如果圈4次，少□个点子。

$5 \times 4 - \square = 19$(个)

3. 先看乘加算式圈点子，再在□里填数。

(1)



$3 \times 5 + 2 = 17$

$3 \times 6 - \square = 17$

(2)



$4 \times 3 + 1 = 13$

$4 \times 4 - \square = 13$

微信公众号：电子课本大全

1.  代表 6， 代表 9。



$\square \times \square - \square = \square$

2. $\bigcirc = 7$　　$\square = 8$

$\bigcirc + \bigcirc + \bigcirc - \square = \square$

$\square \times \square - \square = \square$

1. 梨比苹果多多少个？

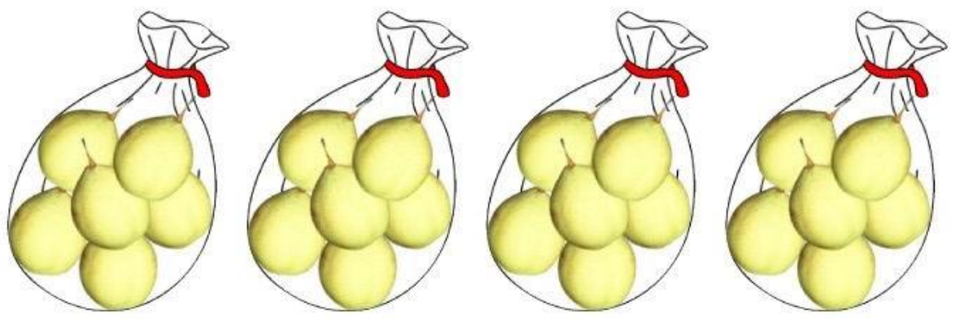



2.

$4 \times 7 - 9$	$8 \times 3 - 6$	$4 \times 8 - 5$
$9 \times 4 - 8$	$10 \times 5 - 8$	$10 \times 7 - 7$

3.



有 3 张空桌，15 个客人坐得下吗？

微信公众号：电子课本大全

练一练 十五

1. 计算下图中果子的总个数。



你能写出几个算式？

2. 计算。

$5 \times 3 + 2$ $5 \times 4 - 3$	$8 \times 3 + 5$ $8 \times 4 - 3$	$9 \times 2 + 7$ $9 \times 3 - 2$

3. 涂色部分有几个小正方形？列式计算。

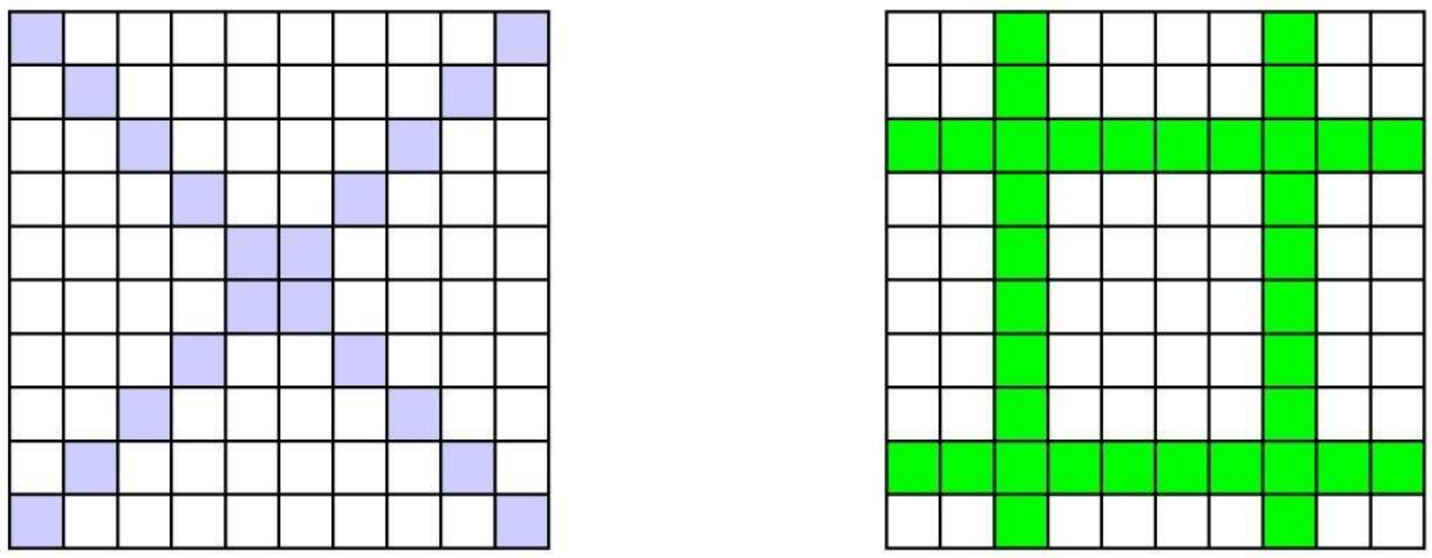

4. 先比较每题中的三个算式，再在□里填数。

$6 + 6 = 6 \times \square$

$6 + 7 = 6 \times \square + \square$

$6 + 7 = 7 \times \square - 1$

$8 + 8 = 8 \times \square$

$8 + 7 = 8 \times \square - \square$

$8 + 7 = 7 \times \square + \square$

5. 在□里填数。

$8 \times 3 + 8 = 8 \times \square$　　$9 \times 4 - 9 = 9 \times \square$

$2 \times 9 + 9 = 9 \times \square$　　$10 \times 3 - 3 = 3 \times \square$

微信公众号：电子课本大全

6. 在□里填上适当的数，使每个花瓣上的得数相等。

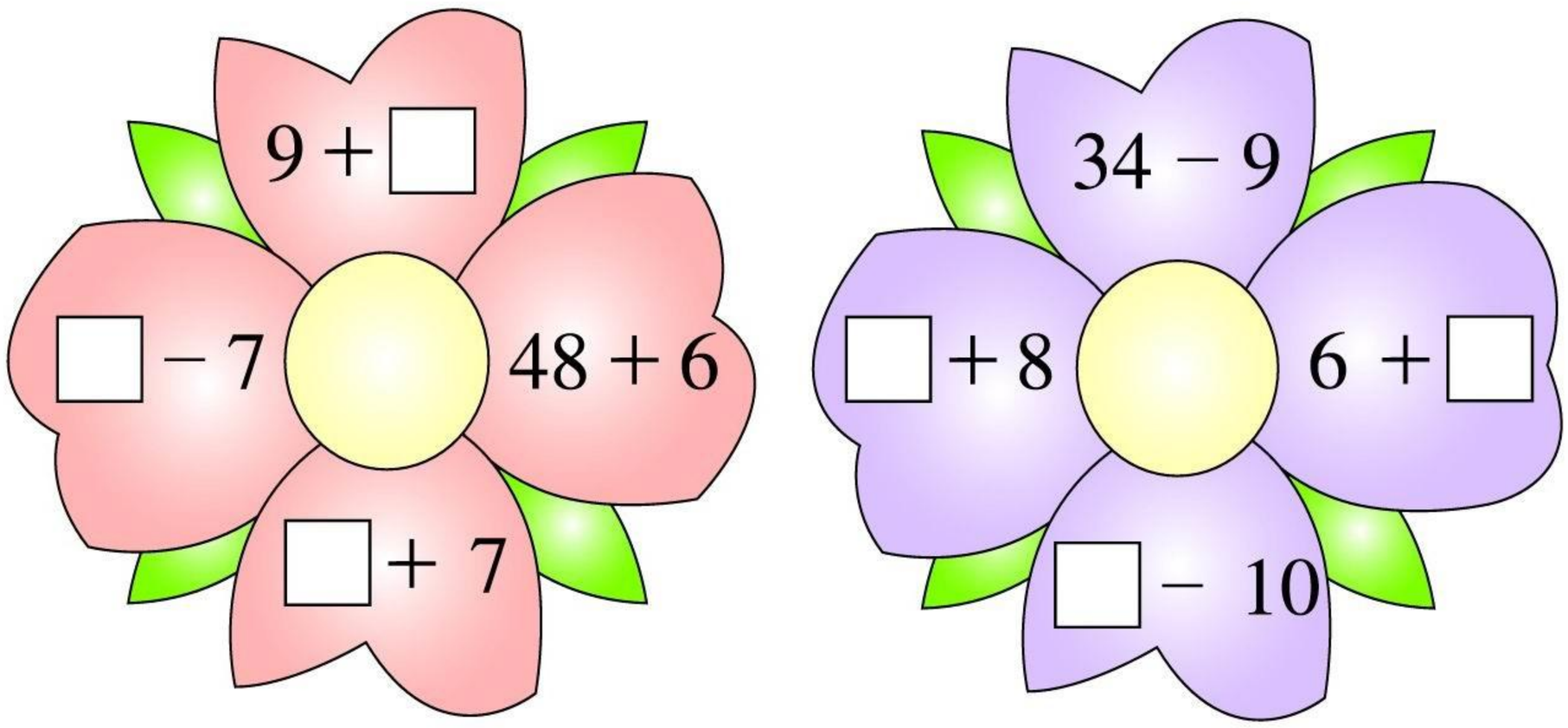

7. (1) 每个兔笼里有3只兔子，7个兔笼里一共有多少只兔子？

(2) 一共有21只兔子，其中黑兔有9只，其余的是白兔。白兔有多少只？

8.



一共采了多少个？送给兔奶奶8个，还剩多少个？

9*. ⊙、△、▬分别表示不同的数字。写出一些竖式。

⊙ ▬
− △
▬ △

3 2
− 6
2 6

□□ − □ = □□　　□□ − □ = □□　　□□ − □ = □□

微信公众号：电子课本大全



整理与应用 四

1. 这一章里你学会了什么？



我认识了人民币，会看商品的价格。

我会算像这样的题：38 + 7，42 − 5，7 × 3 − 4，…



2. 填一填。

1 张  可以换□张  。

1 张  可以换□张  。

3.


8 元


9 元


53 元


47 元


12 元

(1) 买 4 个  与 1 个  一共要多少元？

□ ○ □ ○ □ = □(元)

(2) 买 1 个  付出 20 元，应找回几元？

□ ○ □ = □(元)

(3) 你还能提出哪些数学问题？能解答吗？

微信公众号：电子课本大全

4. 计算。

15 − 8	35 + 5	64 + 7
27 + 6	34 − 6	47 − 9
51 − 7	61 − 2	54 + 8
48 + 3	18 + 5	72 + 9

5. $6 \times 4 - 5$　　$8 \times 4 - 7$　　$10 \times 5 - 6$

$7 \times 3 - 5$　　$4 \times 9 - 8$　　$10 \times 6 - 9$

6. 比一比，算一算。

37 + 9	42 − 8
40 + 9 − 3	39 − 8 + 3
10 × 5 − 4	42 − 2 − 6

7. 在□里填数。

(1) 5 + 6 + 7 = □ × □

(2) 7 + 8 + 9 + 10 = □ × □ + □

(3) 4 + 9 + 10 + 11 = □ × □ + □

8.* ★、●、▲表示不同的数字。写出一些竖式。

$$\begin{array}{r} \star\ \bullet \\ +\ \ \ \blacktriangle \\ \hline \bullet\ \star \end{array}$$

$$\begin{array}{r} 1\ 2 \\ +\ \ 9 \\ \hline 2\ 1 \end{array}$$

$$\begin{array}{r} \square\square \\ +\ \ \square \\ \hline \square\square \end{array}$$

$$\begin{array}{r} \square\square \\ +\ \ \square \\ \hline \square\square \end{array}$$

$$\begin{array}{r} \square\square \\ +\ \ \square \\ \hline \square\square \end{array}$$

微信公众号：电子课本大全

智慧乐园 三

1. 从10，20，30，40，50，60，70这七个数中找出和相等的三对数。

□ + □ = □ + □ = □ + □

□ + □ = □ + □ = □ + □

2. 把10，20，30，40，50这五个数填在下图的○中，使横行、竖列三个数的和都等于□中的数。

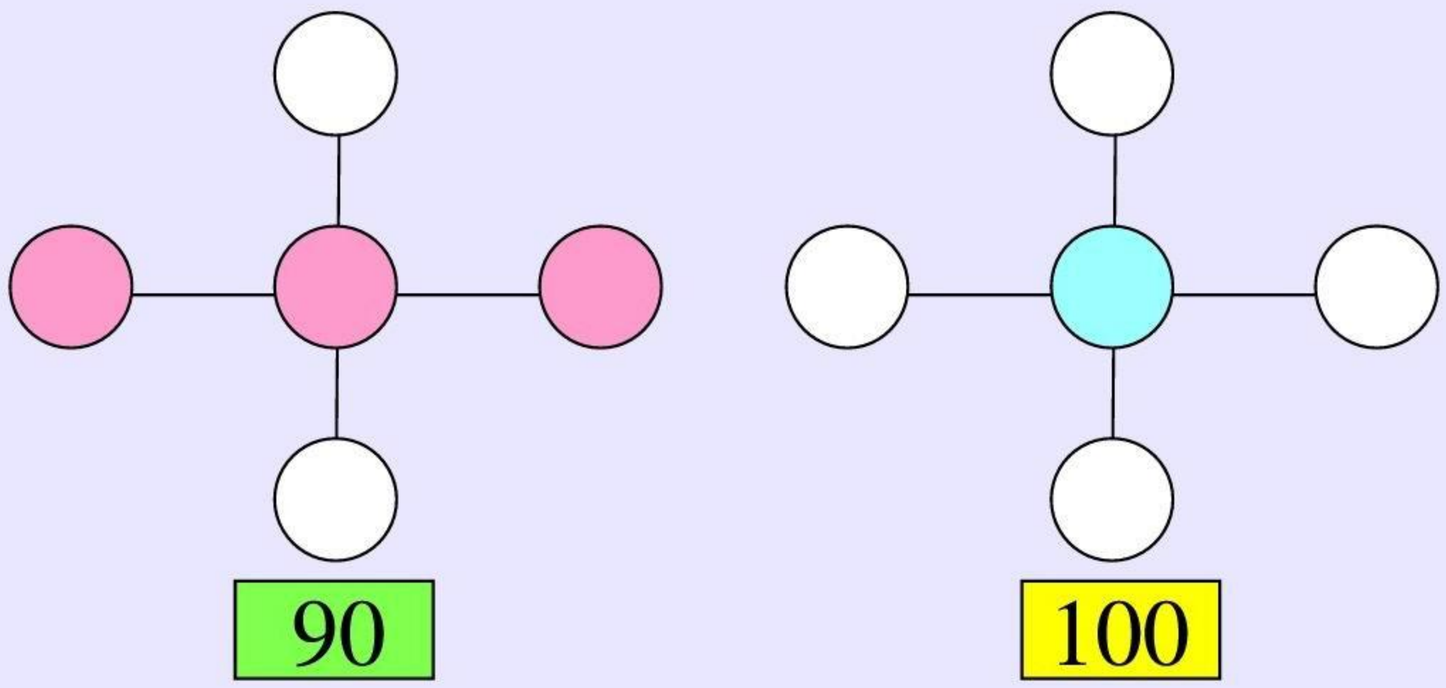

3. 把10，20，30，40，50，60，70这七个数填在下图的○中，使每排三个数的和都是100。

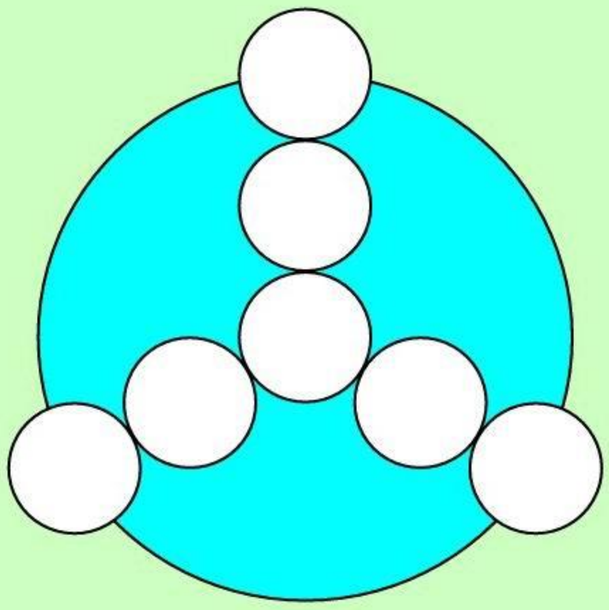

微信公众号：电子课本大全

五 教室里的测量











他们是怎样量的？

微信公众号：电子课本大全

22 认识厘米

课桌的边有多长？



量比较短的物体，常用厘米做单位，厘米的国际单位符号是“cm”。

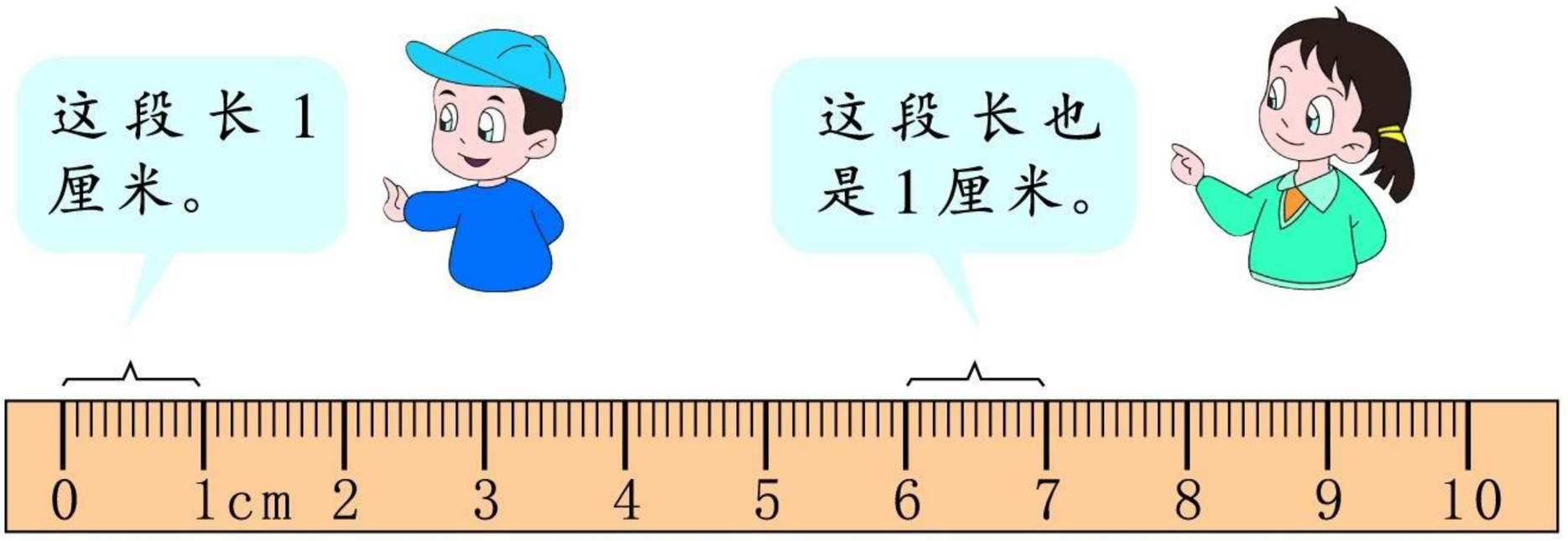

微信公众号：电子课本大全

下列物体分别长多少厘米？

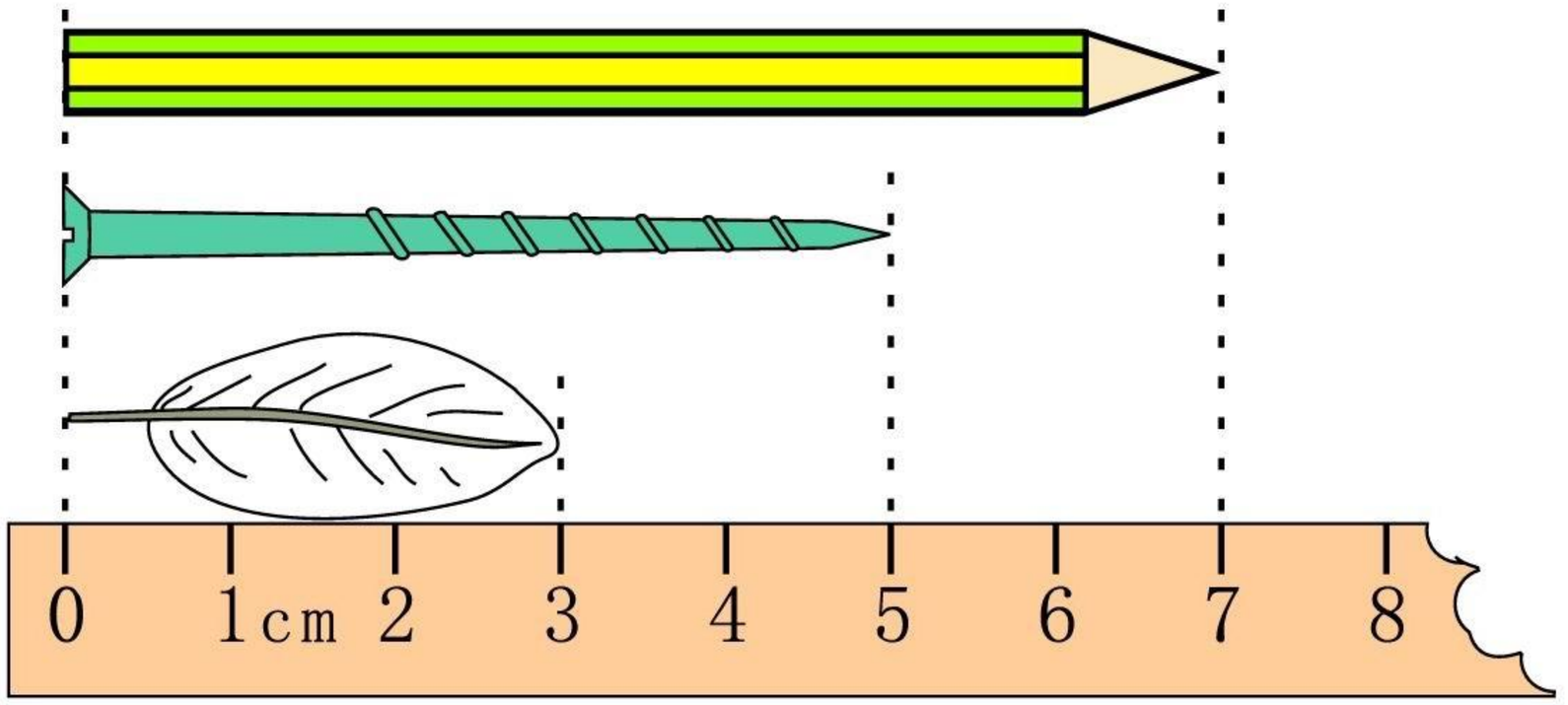



1. 说出回形针的长度。

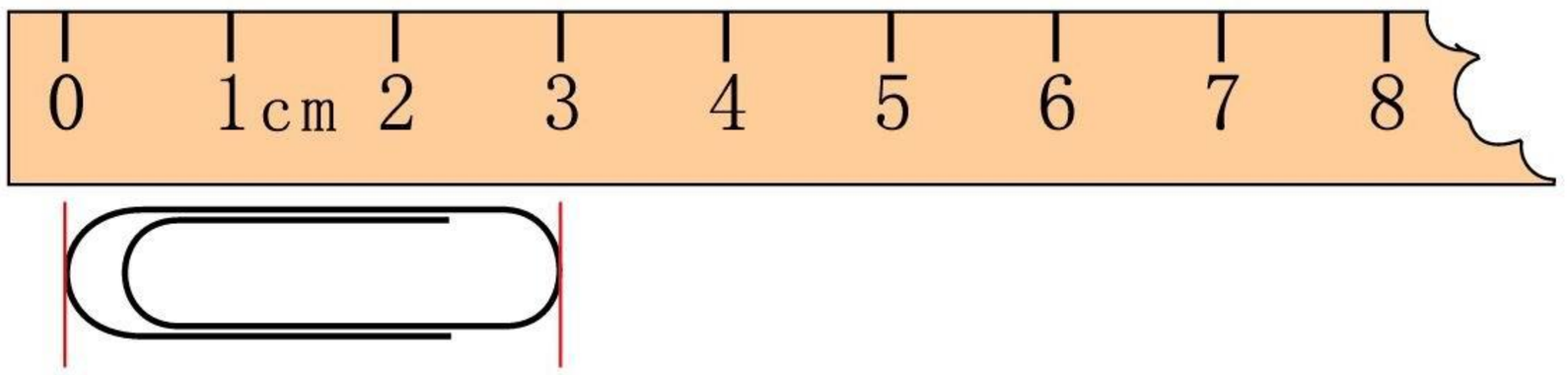

2. 计算下面各种笔的长度。

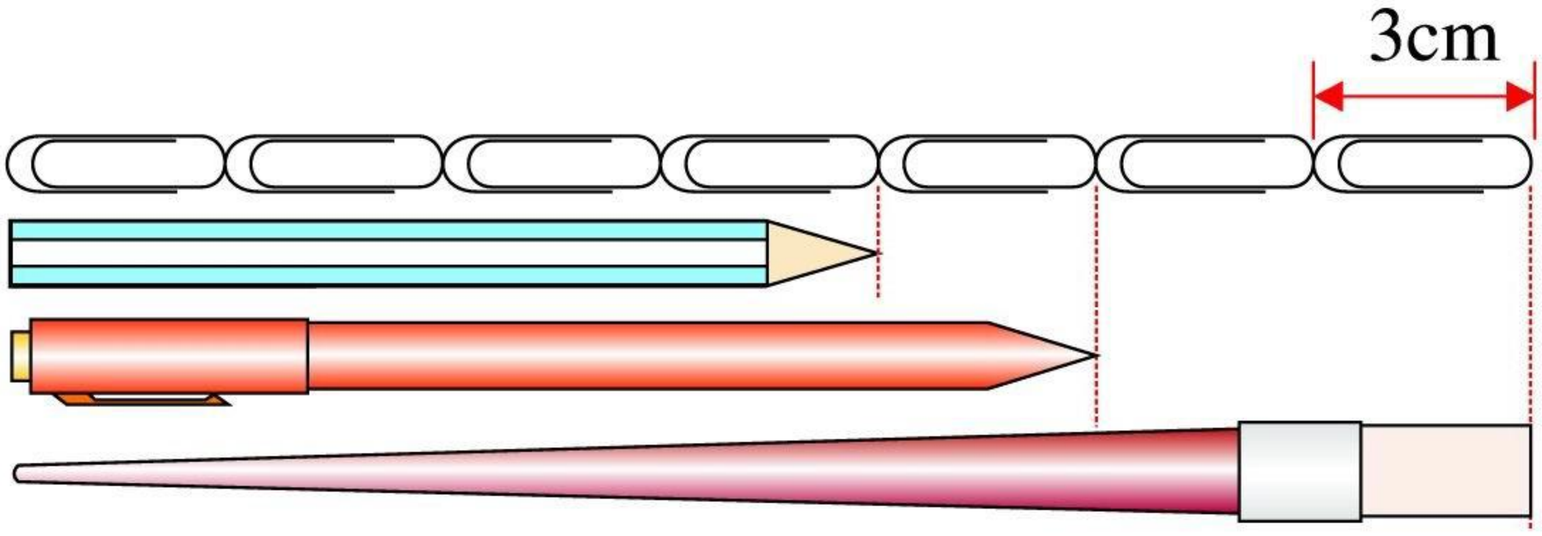

3. 说出这张纸的长度。

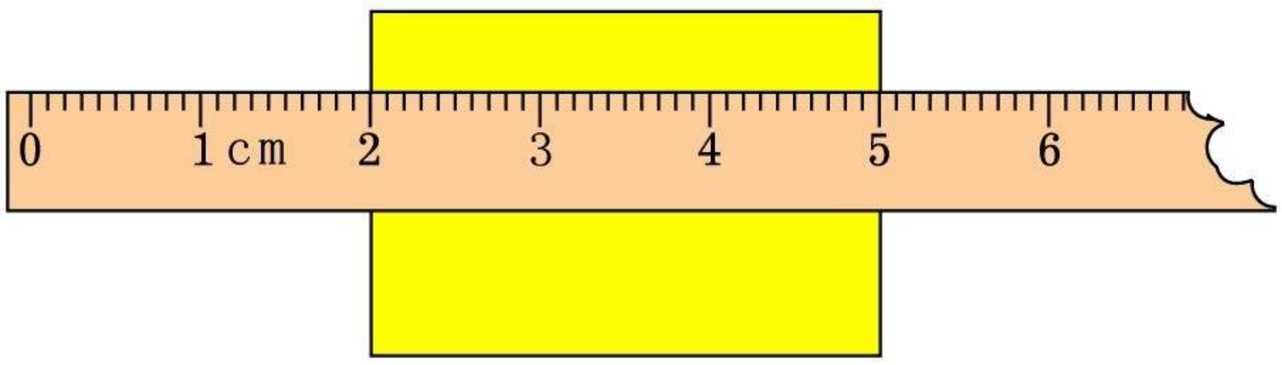

微信公众号：电子课本大全

23 量长度

1. 下面这些都是线段。

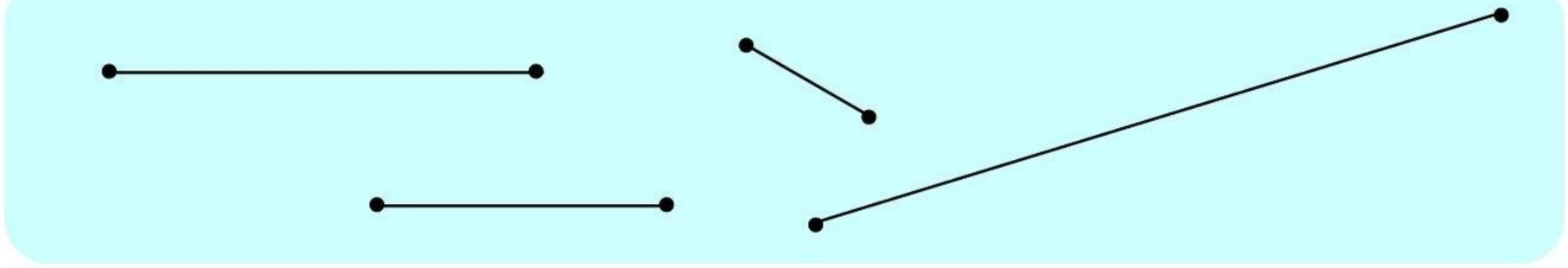

线段是可以量出长度的，怎样量长度呢？量一量上面的线段分别长几厘米。

2. 说出下面每条线段的长度。

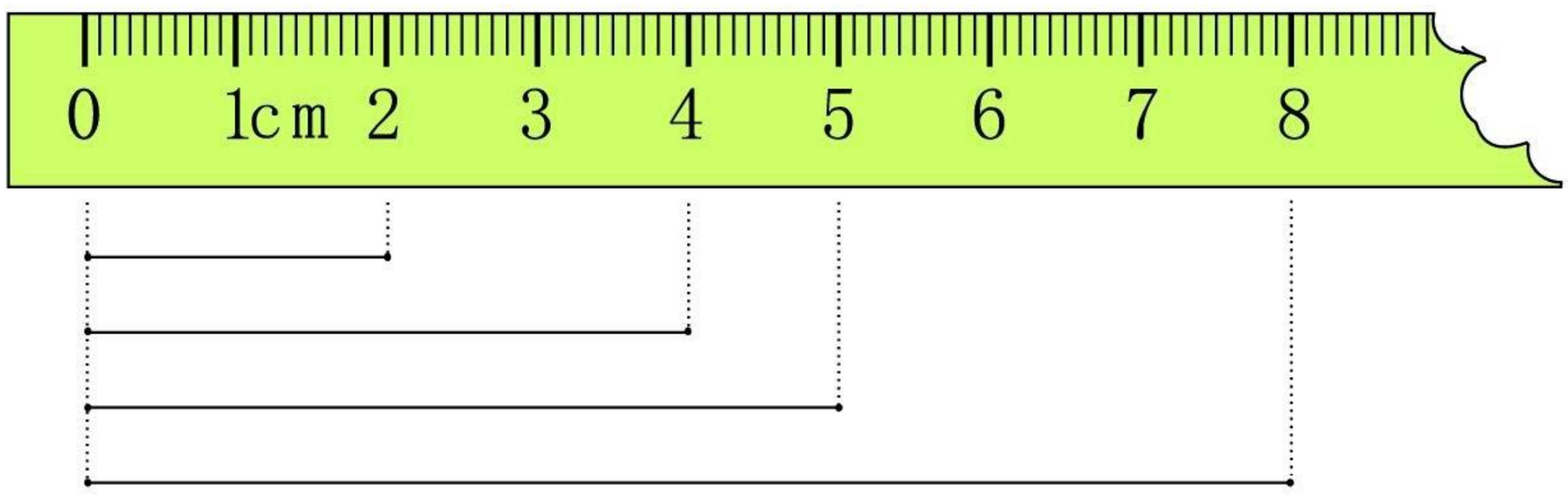

3. 量一量，填一填。

(1) 量一量你各个手指的宽度，看看哪个手指的宽度大约是1厘米。

(2) 手掌宽约＿＿厘米，1拃长约＿＿厘米。



微信公众号：电子课本大全



1.

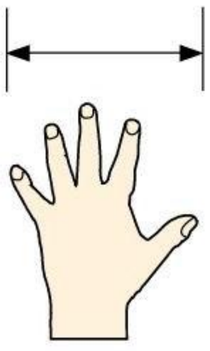

宽约 10cm



长约 20cm

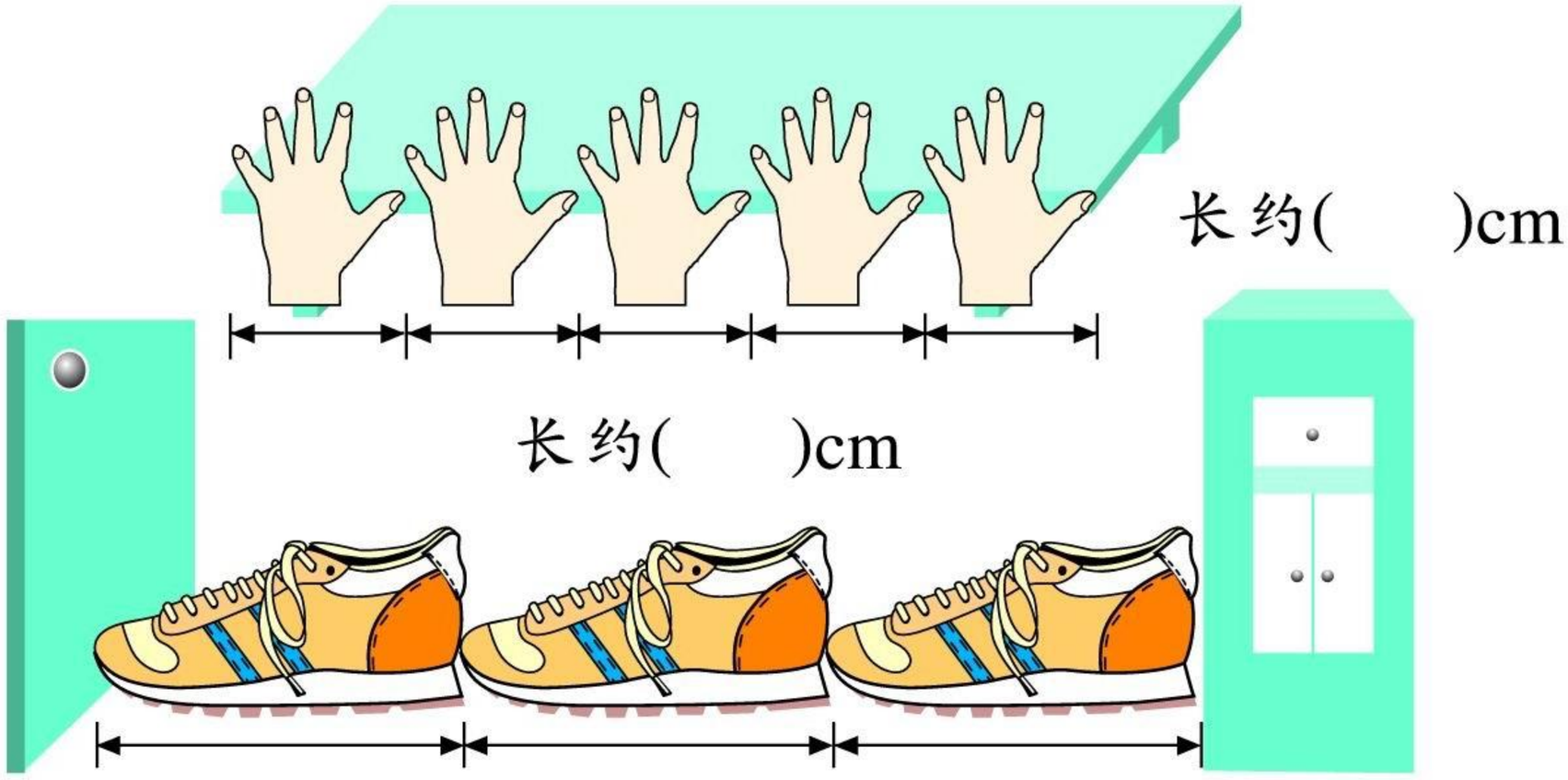

2. 你的宽约(　　)厘米，用你的量数学课本长的一边，约(　　)厘米。

3. 闭上眼睛画3厘米长的线段。

数学百花园



古埃及用前臂作为长度单位。在修建大金字塔时，选择了国王的前臂作为标准长度。

微信公众号：电子课本大全

24 认识米



要知道跳了多远，常用卷尺去量。



量比较长的物体，常用米做单位，米的国际单位符号是“m”。

拿一把米尺，先看一看1米的长度，再数一数1米有多少厘米。

1 米(m) = 100 厘米(cm)



1. 用卷尺量长度。

(1) 教室长约＿＿＿＿米。

(2) 门高约＿＿＿＿米。



2. 估一估，量一量，说一说。

(1) 从地面到你身体的什么地方大约是1米？

(2) 1米大约有几支铅笔长？

(3) 黑板的长边大约是几米？

微信公众号：电子课本大全

3. 量身高。



强强量得自己的身高是1米20厘米。



1. 量一量黑板的边有多长。



2. 用卷尺量长度。

(1) 教室外面的走廊长约＿＿＿＿米。

(2) 找一块空地，先量出20米的长度，再走一走，你大约要走几步？

(3) 你走20步的长度约为＿＿＿＿米。

微信公众号：电子课本大全

练一练 十六

1. 看一看，填一填。



 比  长(　　)cm

2. 量出下列线段的长度。

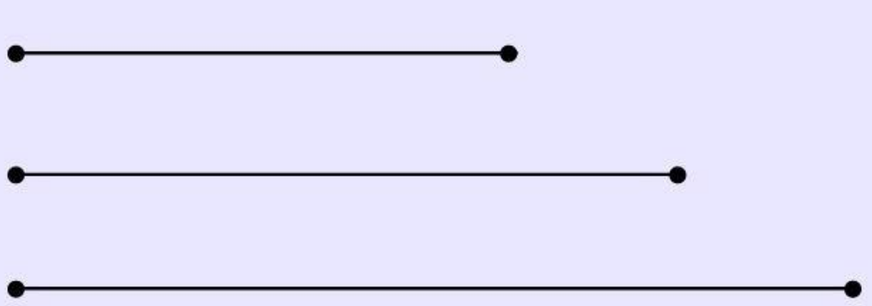

(　　)cm

(　　)cm

(　　)cm

3. 两人一组，互相量一量。



我的身高：

□ 厘米



我的臂距：

□ 厘米



我的步长：

□ 厘米



我的臂长：

□ 厘米

实践活动

微信公众号：电子课本大全

4.







选择适当的方法测量门的宽度和游泳池的长度。

(1) 你会用身体的哪个部分来测度？



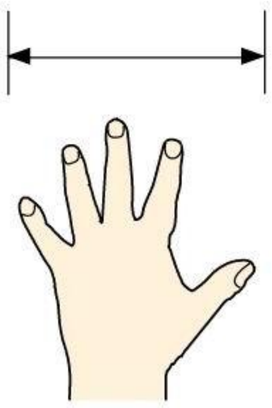

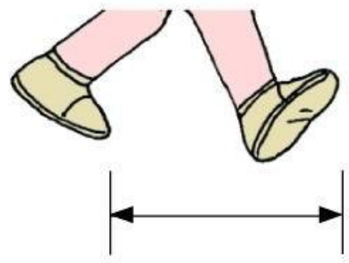

(2) 你会用哪一种工具来测量？

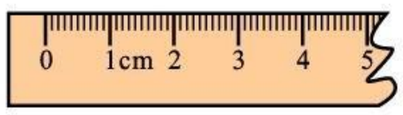



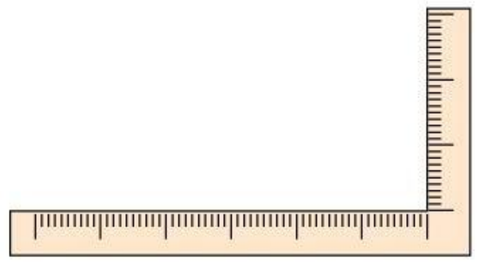

5. 估一估。

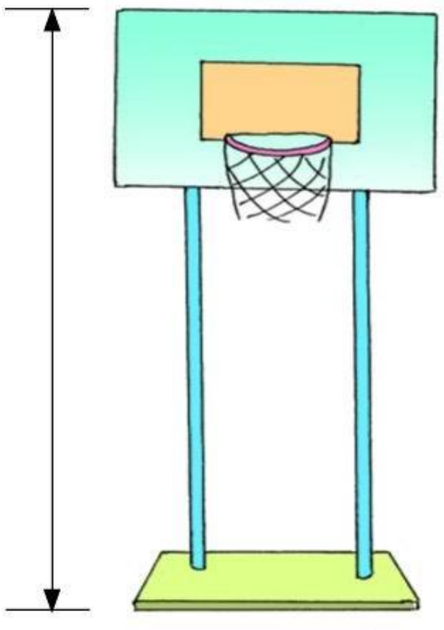



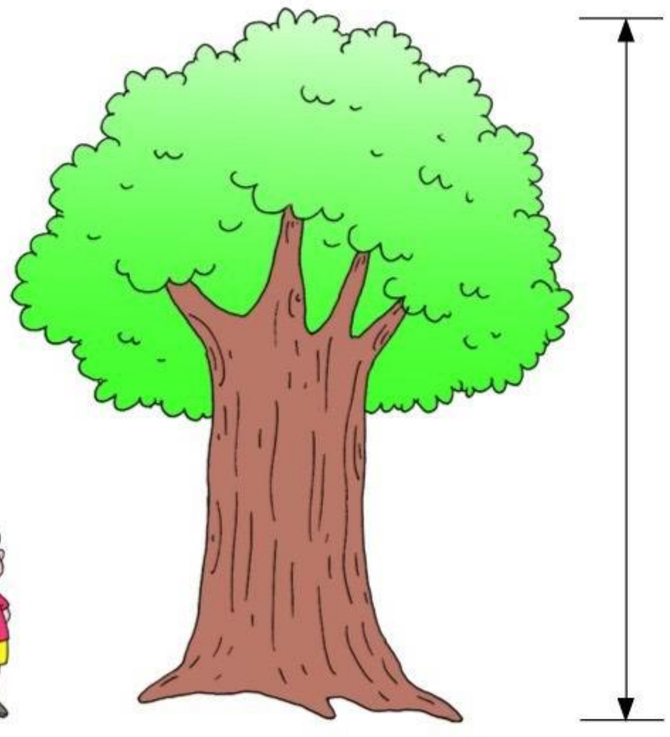

篮球架高约(　　)米。　　树高约(　　)米。

微信公众号：电子课本大全

6. 从强强家到学校有40米，从学校到电影院有30米。

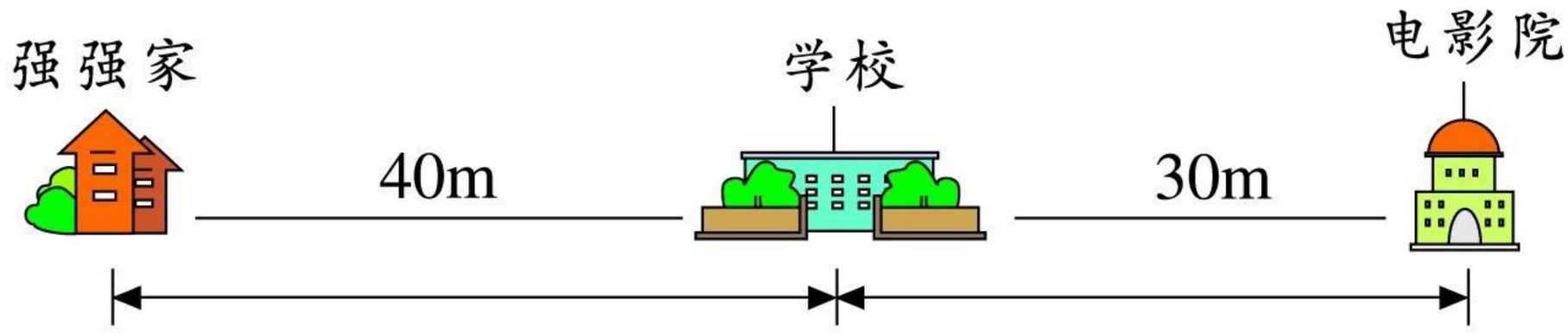

(1) 强强每天上午到学校上课，下午回家，要走(　　)米。

(2) 强强从家里出发到电影院看电影，要走(　　)米。

7. 小华用一根3米长的竹竿量水深，竹竿露出水面部分是1米。水深多少米？



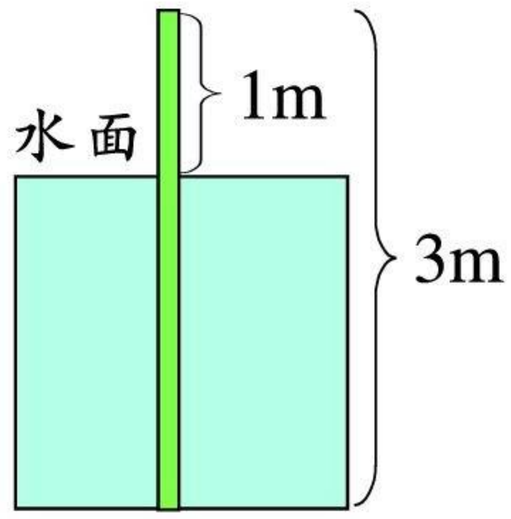

8.* 树干一周有多长？同学们带着一根绳子和一把米尺，测量一棵大树树干一圈的长度。想一想，应该怎样量？



微信公众号：电子课本大全

智慧乐园 四

1. 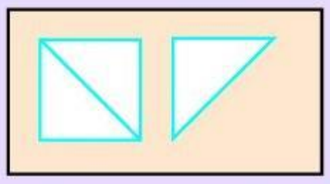 里有(　　)个  。

(1) 3 个  比 4 个  多(　　)个  。

(2)  和(　　)个  同样多。

(3) 如果  表示 6，那么 4 个  比 4 个 

多(　　)。

2.  里有(　　)个 。

(1) 5 个  比 7 个  多(　　)个  。

(2) 3 个  和(　　)个  同样多。

(3) 如果  表示 7，那么  表示(　　)，1 个 

比 1 个  多(　　)。

3. 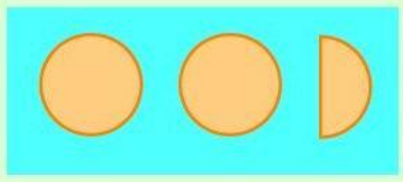 里有(　　)个  。

(1) 5 个  比 4 个  少(　　)个  。

(2) 6 个  和(　　)个  同样多。

(3) 如果  表示 9，那么 1 个  比 1 个  多

(　　)。

微信公众号：电子课本大全

六 总复习

[1]

1. 说一说，你在数学学习中有哪些收获？



2. 写出54前面的6个数与后面的6个数。

3. 从小到大排列下面各数。

75　68　92　38　70　19

4. 涂色部分表示几？

(1)

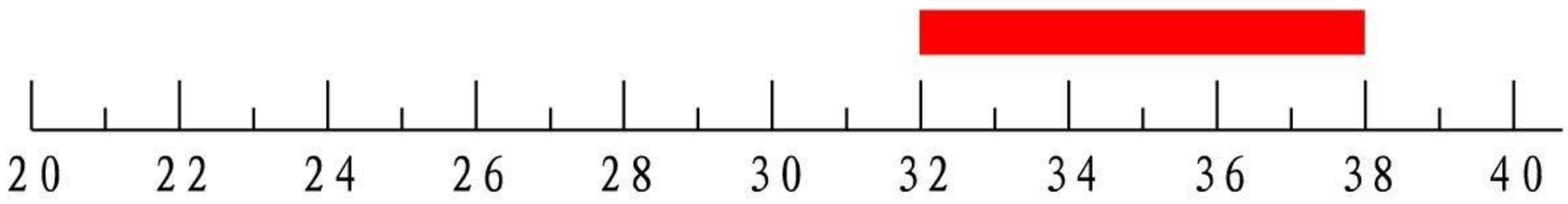

(2)

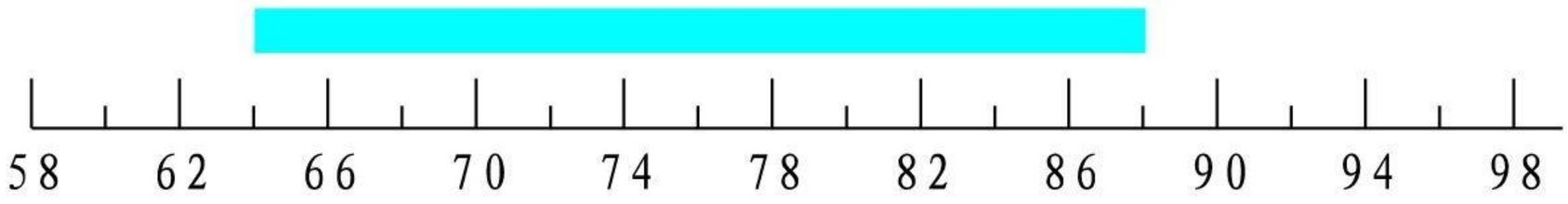

5. 涂色部分分别有几个小方格？

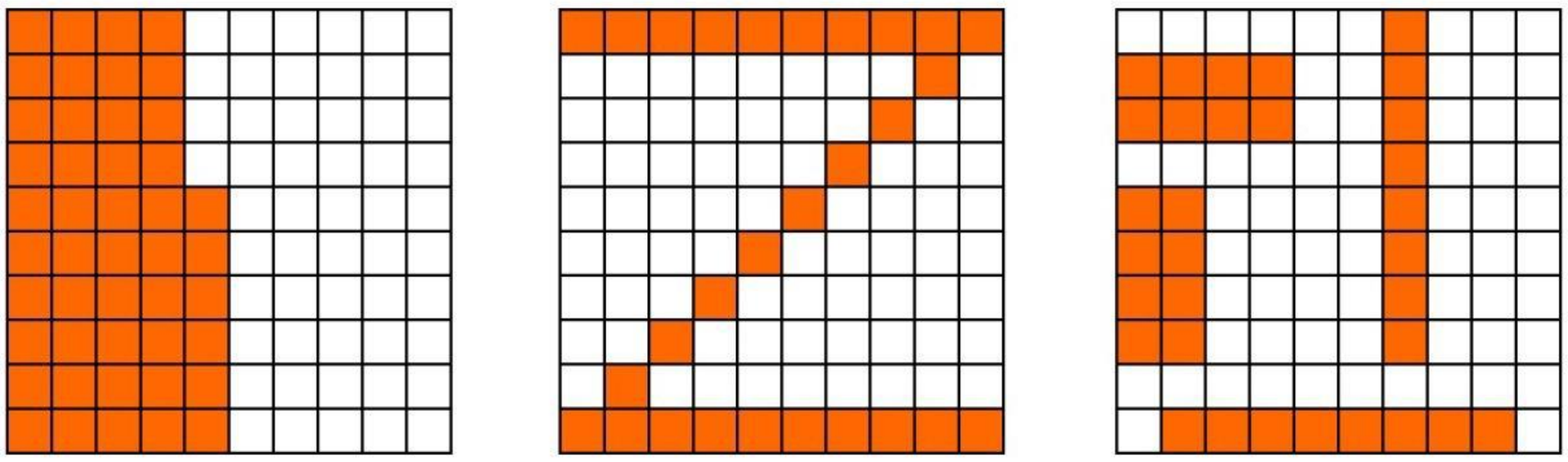

微信公众号：电子课本大全

6. 写出十位上的数字与个位上的数字相差3的两位数。

7. 用9个“•”在数位格上表示数，并按从小到大的顺序排列。

十位	个位

(　　)　(　　)　(　　)　(　　)　(　　)

十位	个位

(　　)　(　　)　(　　)　(　　)　(　　)

[2]

1. 把下面的乘法口诀写完整。

二(　　)得8　　三七(　　)　　(　　)九36
四(　　)28　　三九(　　)　　(　　)八24

2. 在□里填数。

□ × □ = 32
16 = □ × □

□ × □ = 24
18 = □ × □

□ × □ = 15
28 = □ × □

3. 计算。

54 + 9	46 + 7	36 + 6
63 + 9	72 − 7	83 − 8
61 − 6	91 − 8	75 − 7

微信公众号：电子课本大全

4. 求图形表示的数。

◉ − 7 = 35

◉ = □ ○ □

◉ = □

△ + 9 = 43

△ = □ ○ □

△ = □

5. 看图列式计算。

(1)

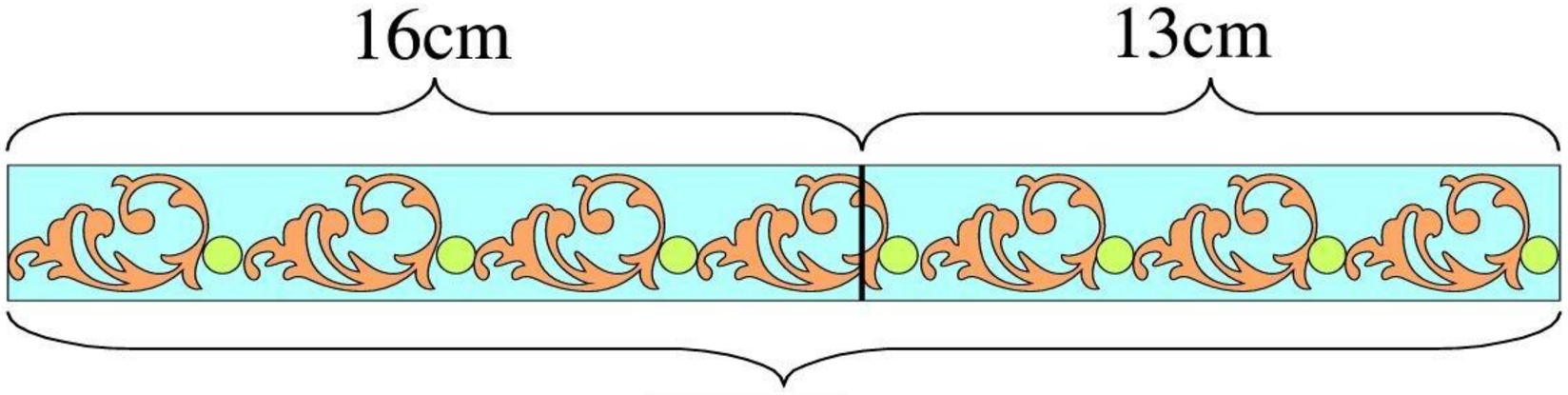

□ cm

□ cm

(2)



6. 看图解答。

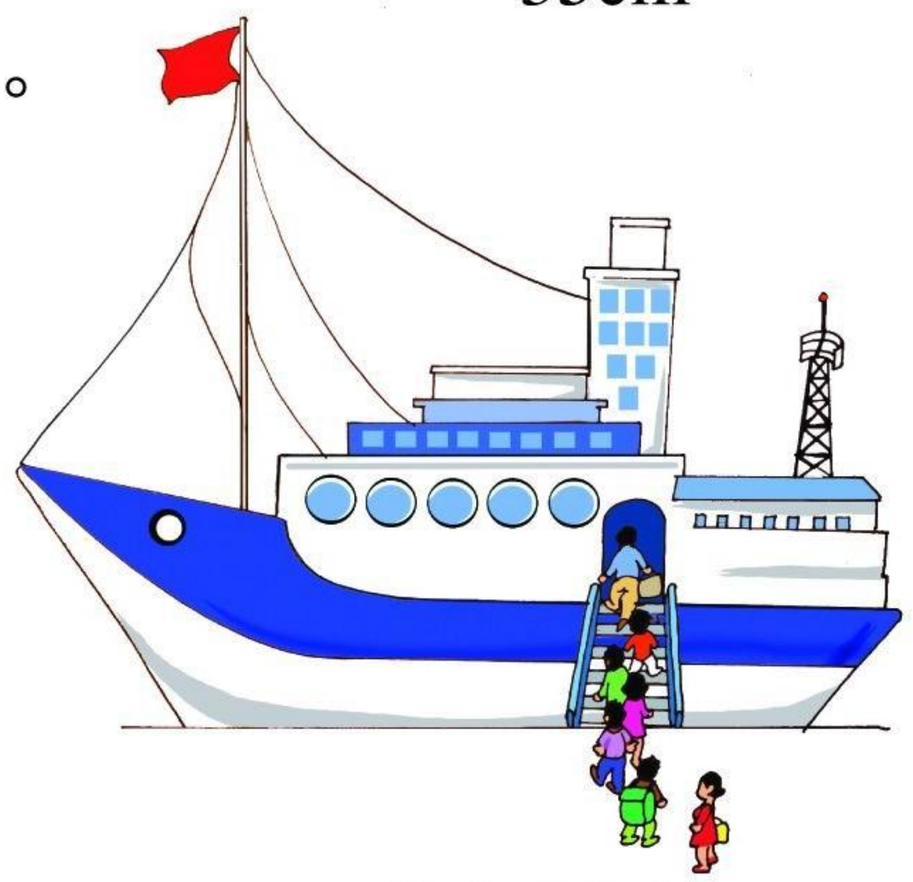

可乘85人

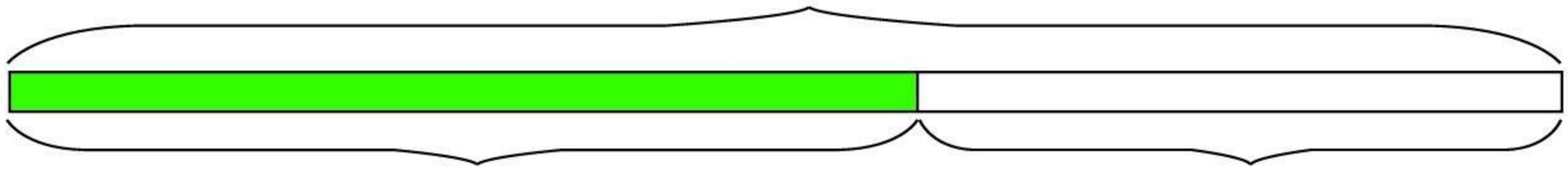

已乘50人　　还能乘□人

微信公众号：电子课本大全

[3]

1. 看图计算。



3套茶具有多少只杯子？



每张光盘2元，要多少元？

2. 每只小船可坐4人，6只小船可坐多少人？7只、8只、9只小船各可坐多少人？



小船只数	1	6	7	8	9
人数	4				

3. 买1件玩具3元，买5件、6件、7件、8件、9件各要多少元？

件数	1	5	6	7	8	9
价格/元	3					

4. 在□里填数，说一说你是怎么想的。

$28 = 21 + \square$

$28 = 7 \times 3 + \square$

$28 = 7 \times \square$

$36 = 32 + \square$

$36 = 4 \times 8 + \square$

$36 = 4 \times \square$

微信公众号：电子课本大全

5. 在□里填数。

16 $\xrightarrow{+8}$ □ $\xrightarrow{+8}$ □ $\xrightarrow{+8}$ □ $\xrightarrow{+8}$ □

18 $\xrightarrow{+6}$ □ $\xrightarrow{+6}$ □ $\xrightarrow{+6}$ □ $\xrightarrow{+6}$ □

6. 在□里填数。

42 $\xrightarrow{-7}$ □ $\xrightarrow{-7}$ □ $\xrightarrow{-7}$ □ $\xrightarrow{-7}$ □

54 $\xrightarrow{-6}$ □ $\xrightarrow{-6}$ □ $\xrightarrow{-6}$ □ $\xrightarrow{-6}$ □

7. (1) 洋葱有30筐，茄子比洋葱少5筐。茄子有多少筐？

(2) 茄子有25筐，胡萝卜比茄子多8筐。胡萝卜有多少筐？

8. 菜场运来黄瓜3车，每车10筐。运来黄瓜多少筐？运来西红柿50筐。运来的西红柿比黄瓜多多少筐？

[4]

1. 计算。

$3 \times 7 + 14$	$20 \times 3 + 15$	$9 \times 4 + 9$
$7 \times 4 - 16$	$8 \times 4 - 8$	$3 \times 9 - 17$

2. 计算。

$76 + 23$	$65 + 12$	$35 + 7$	$24 + 9$
$76 - 23$	$65 - 12$	$35 - 7$	$24 - 9$

3. 计算。

$18 + 6 + 6$	$28 + 4 + 4$
$24 + 8 + 8$	$28 + 7 + 7$

微信公众号：电子课本大全

4. 圈中的24是得数，你能正确填出□里的数吗？

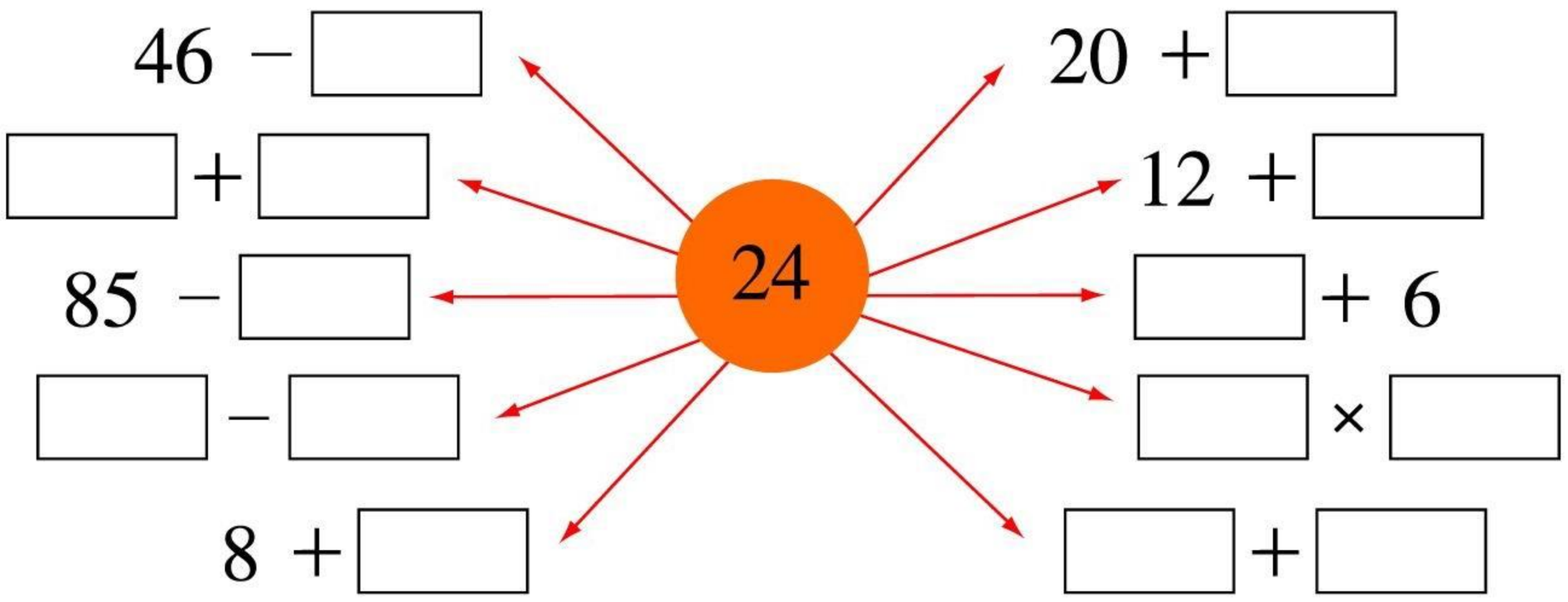

5. 买一套《童话》书要24元。



6. 各图形分别表示几？

(1)

▲ + ▲ + ▲ + ▲ = 24　　▲ = (　　)

★ + ★ + ★ + ▲ = 24　　★ = (　　)

(2)

● + ● + ● = 18　　● = (　　)

◆ + ● + ◆ = 22　　◆ = (　　)

(3)

⬢ + ⬢ + ⬢ = 15　　⬢ = (　　)

■ + ■ + ■ + ⬢ = 23　　■ = (　　)

微信公众号：电子课本大全

[5]

1. 把分别写着32，33，34，35，36，37，38这些数的卡片按顺序叠起来，最中间那张是□。如果把最中间的那张抽出来，放在最上面，这时最中间的那张是□。



2. 算一算叠起来后的高度。

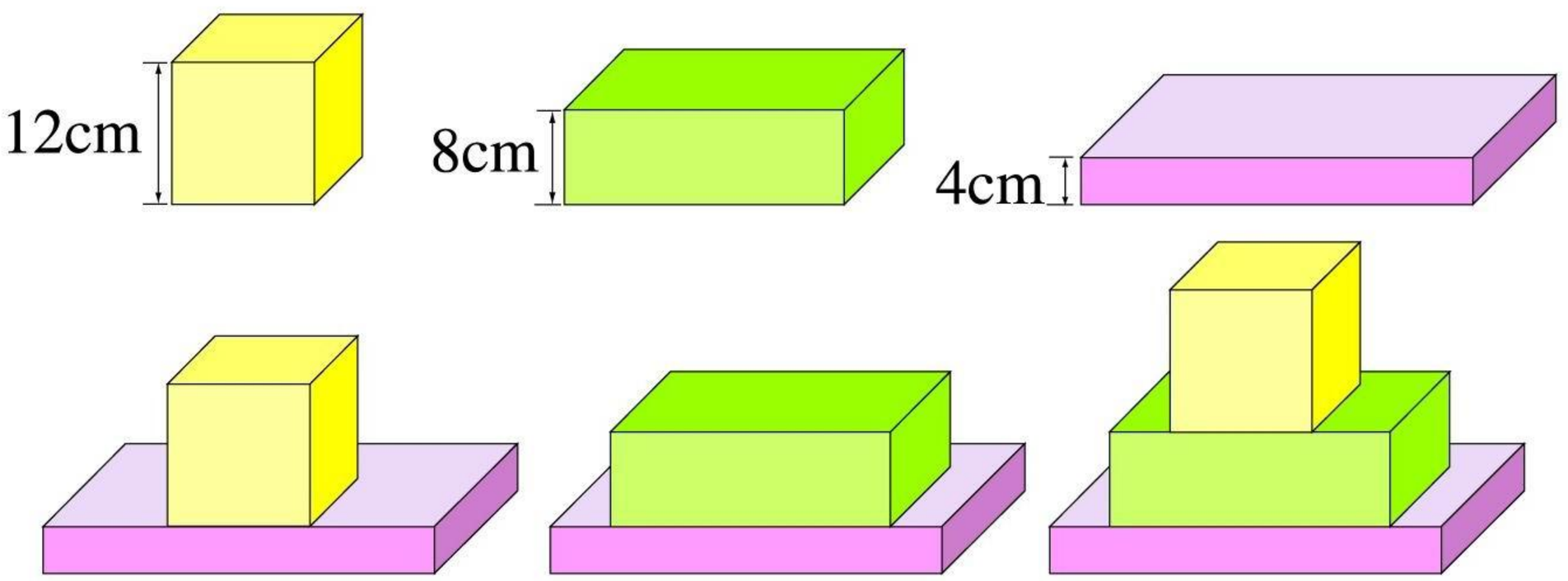

(　　)cm　　(　　)cm　　(　　)cm

3. 口答。

1张正好能买1支和2个。

如果买1支和1个，还剩3元。那么1个(　　)元，1支(　　)元。

4. ⊙表示7，★表示6。

⊙＋⊙＋⊙＋★＝□

□×□＋□＝□

微信公众号：电子课本大全

5. 在□里填数。

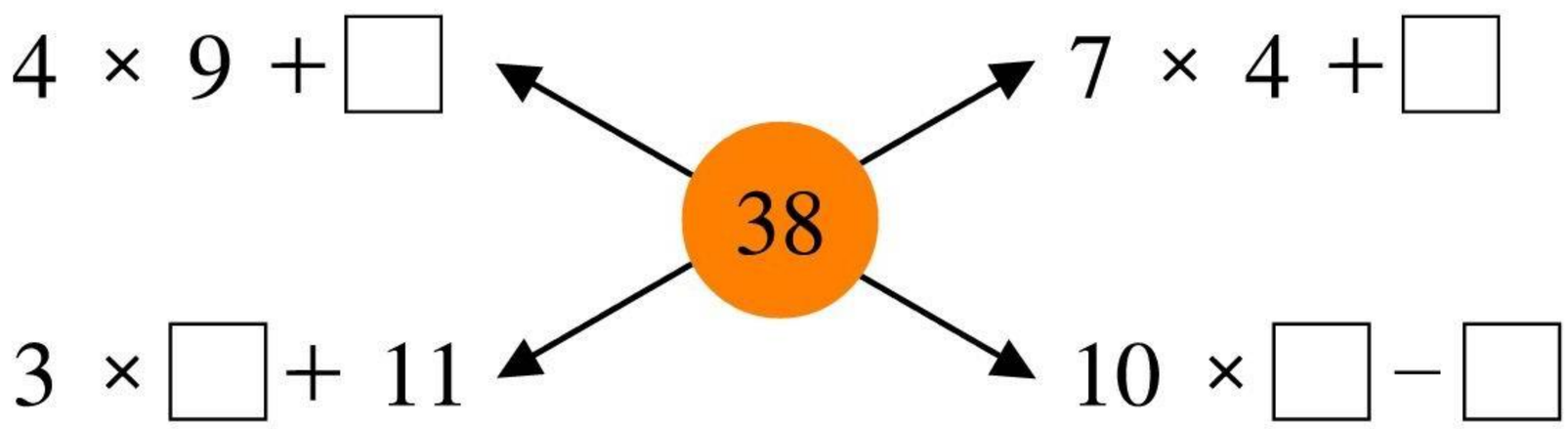

6.* ●、★、▲表示不同的数字。

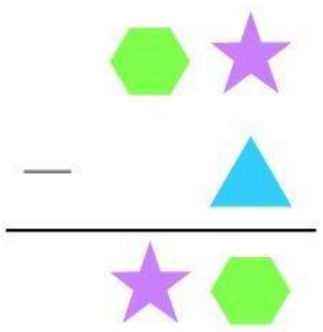

(1) 写出一些符合条件的竖式。

(2) 与97页第8题比较，有什么联系？

[6]

1. 兔子赛跑。

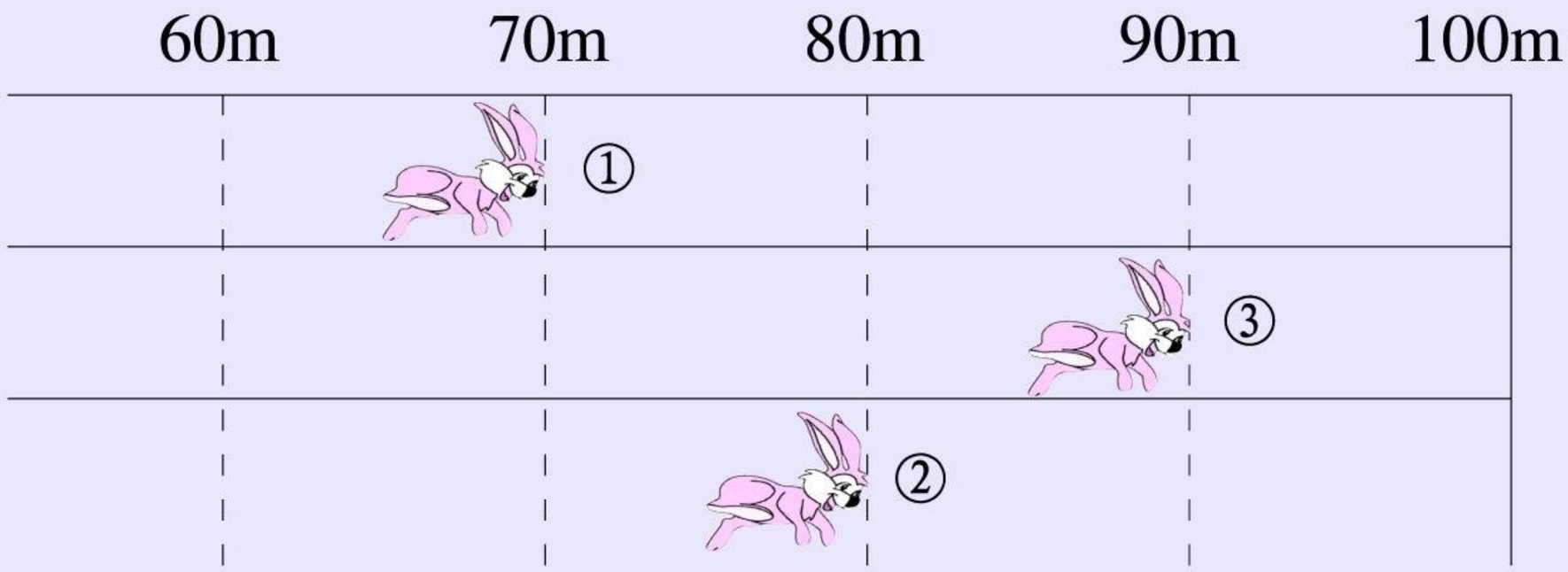

①号已经跑了□米，离终点还有□米。

②号已经跑了□米，离终点还有□米。

□号最有可能先到终点。

微信公众号：电子课本大全

2.



11 元　23 元　9 元　8 元　15 元　10 元

(1) 买 1 个和 1 把要(　　)元。

(2) 用 20 元买 1 只，找回(　　)元。

(3) 买 5 个和 1 只要(　　)元。

(4) 你还能提出哪些数学问题？

3. 玩具汽车价格如下图所示。小林刚好用 20 元钱买了 3 辆汽车，他买的是哪 3 辆？用算式表示出来。



4.* 每行或每列各图形的和如左下图所示，如左起第 1 列▲＋▲＋▲＝21。在右下图中写出各图形表示的数。

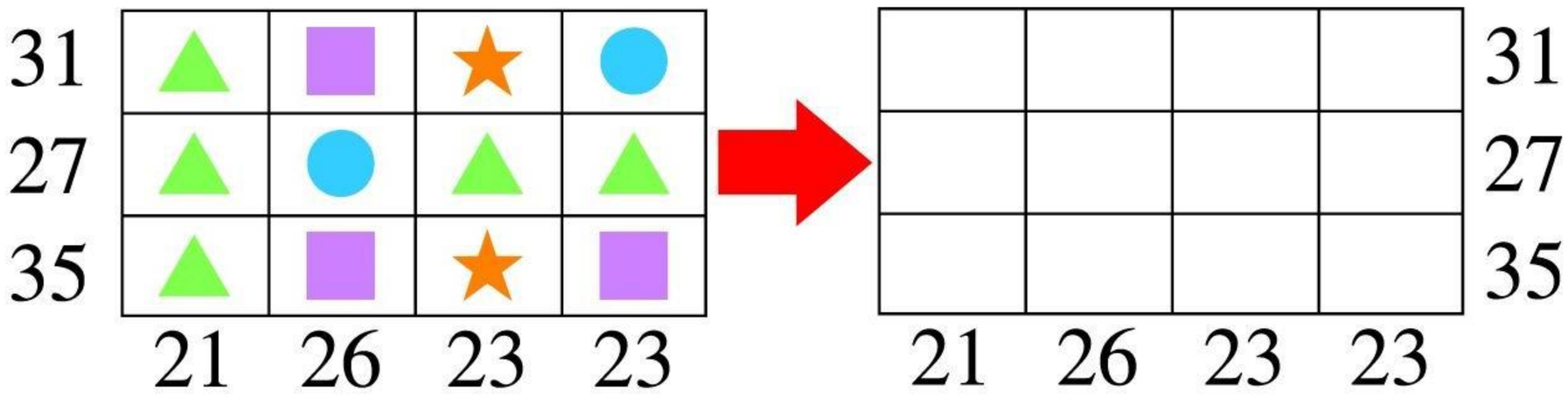

微信公众号：电子课本大全

责任编辑：何黎峰
责任印务：陆　江
责任校对：陈云霞
装帧设计：李　珺

九年义务教育小学实验教科书

数　学

一年级　下册

○ **主　　编**：张天孝
○ **出版发行**：浙江教育出版社
（杭州市天目山路 40 号　邮编 310013）
○ **印　　刷**：杭州富阳美术印刷有限公司
○ **开　　本**：890 × 1240　1/32
○ **印　　张**：3.875
○ **字　　数**：77 500
○ **版　　次**：2009 年 1 月第 1 版
○ **印　　次**：2009 年 12 月第 2 次
○ **印　　数**：19 301−35 000
○ **标准书号**：ISBN 978−7−5338−7750−7
○ **定　　价**：4.48 元

联系电话：0571−85170300−80928
e-mail：zjjy@zjcb.com
网址：www.zjeph.com

微信公众号：电子课本大全

亲爱的小朋友：

在上个学期，你一定提出了很多数学问题，也一定学到了很多数学知识。你开心吗？

新学期开始了，你猜一猜，我们要学习哪些新的数学知识呢？你可以想一想，上个学期还有哪些数学问题没有解决？也可以看一看这本书的目录，你一定会发现：在这个学期中，我们要认识比20大的数，我们要继续学习加法和减法，还要认识“乘法”这位新朋友。学习这些数学知识是件很开心的事。

编书的张爷爷

微信公众号：电子课本大全

经全国中小学教材审定委员会2008年审查通过

九年义务教育小学实验教科书

JIUNIANYIWUJIAOYUXIAOXUESHIYANJIAOKESHU

数学

一年级 下册

_____ 年级 _____ 班

姓名 _____

浙江教育出版社

微信公众号：电子课本大全