教辅资料站
电子教辅 试卷练习
知识总结 备课资源
大卷
扫码关注获取更多学习资料

大卷全程培优 微卷助冲满分

好卷

DAJIANQUANCHENGPEIYOU WEIJUANZHUCHONGMANFEN

大卷全程培优 | 单元培优 测试卷(8套) | 归类培优 测试卷(4套) | 期中(末)培优 测试卷(4套)

微卷助冲满分 | 核心考点 突破卷(12套) | 方法技能 提升卷(6套)



二年级

数学(上)(R版)

按80:1配赠教师用书

吉林教育出版社

海量资源"一码"搞定



教师专属福利

✓让您教学更轻松

1. **PPT版教学课件** "预、授、练、考"全环节，个性可改。
2. **点典教案** PDF版和Word版。
3. **备课资料包** 图文资料、音视频素材、拓展阅读、说课稿，一应俱全。
4. **课文朗读音视频**
5. **听力测试音频**
6. **Word版试题库** 《典中点》《好卷》中好题新题任你用。

✓惊喜活动等您来

7. **荣德基图书免费领** 样书直接到您手。
8. **反馈问题得好礼** 反馈图书质量问题，荣德基图书免费用。
9. **分享资源得好礼** 邀您投递研究成果、优质资源、好题好卷，惊喜回报等您拿。
10. **诚邀加盟** 有机会加盟中国品牌创新发展工程推荐品牌《点拨》《典中点》编委会。

学生·家长助力服务

1. **重难知识微课** 识字微课、阅读微课、习作微课、口语交际微课、方法微课。
2. **《典中点》"极速提分法"习题微课**
3. **《好卷》附加题精讲微课**
4. **写字微课** 笔顺笔画演示、写字方法指导。
5. **音视频** 课文朗读、词语报听写、推荐阅读。

好卷 =《大卷》+《微卷》

大卷 全程培优 微卷 助冲满分

不是所有的试卷都叫"好卷"，期末提分才是硬道理！

大卷 同步培优卷

✦单元培优测试卷

第1单元 长度单位 …… 1
第2单元 100以内的加法和减法（二） …… 3
第3单元 角的初步认识 …… 5
第4单元 表内乘法（一） …… 7
期中测试卷 …… 9
第5单元 观察物体（一） …… 11
第6单元 表内乘法（二） …… 13
第7单元 认识时间 …… 15
第8单元 数学广角——搭配（一） …… 17

✦归类培优测试卷

1. 计算 …… 19
2. 实际应用 …… 21
3. 图形与几何问题 …… 23
4. 易错题 …… 25

✦综合培优测试卷

1. 期末模拟卷 …… 27
2. 期末测试卷（一） …… 29
3. 期末测试卷（二） …… 31

微卷 专项拔尖卷

✦核心考点突破卷 可阶段或期末用

1. 常见的长度单位及其应用 …… 1
2. 100以内加减法的计算 …… 3
3. 求比一个数多(少)多少的数的方法 …… 5
4. 连加、连减、加减混合运算的计算方法 …… 7
5. 连续两问的加减法特殊问题 …… 9
6. 角的分类及拼组 …… 11
7. 乘法与加法的联系 …… 13
8. 2~6的乘法口诀 …… 15
9. 2~9的乘法口诀的应用 …… 17
10. 用乘加、乘减解决问题 …… 19
11. 用2~9的乘法口诀解决较复杂的乘法问题 …… 21
12. 解决生活中的时间问题 …… 23

✦方法技能提升卷 期末用

1. 测量物体长度的技巧 …… 25
2. 用加减法解决问题的技巧 …… 27
3. 表内乘法的灵活计算 …… 29
4. 用乘法解决实际问题的技巧 …… 31
5. 线段及角计数的技巧 …… 33
6. 时间、排列组合在生活中的技巧 …… 35

| 大卷答案▶见大卷第33~37页 / 微卷答案▶见大卷第37~40页 |

微信公众号
教辅资料站
关注微信公众号"教辅资料站"获取更多学习资料

荣德基 好卷

单元培优测试卷

二年级 数学 上（R版）

第1单元 长度单位

时间：60分钟　满分：100分+10分

题号	一	二	三	四	五	挑战题	总分
得分							

一、仔细审题，填一填。（第7小题3分，其余每空1分，共24分）

1. 尺子上从刻度0到9是（　　）厘米，从刻度5到18是（　　）厘米。

2. 1米10厘米＝（　　）厘米　　200厘米＝（　　）米

3. 量长度。

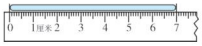

木棍长（　　）厘米

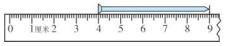

钉子长（　　）厘米

4. 估长度。

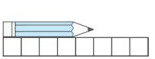

铅笔大约（　　）个□长

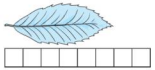

树叶大约（　　）个□长

5. 动手量长度。



6. 有趣的拼接。

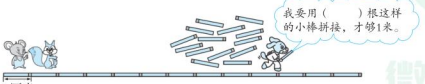

7. 在合适的答案后面画“√”。



比1米高□　比1米矮□



比1米长□　比1米短□

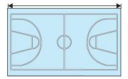

比1米长□　比1米短□

8. 在（　　）里填上“厘米”或“米”。



楼房高约30（　　）



蜜蜂身长约1（　　）



马高约2（　　）

9. 在○里填上“＞”“＜”或“＝”。

60厘米○6米　　3米○2米30厘米　　1米○99厘米

10. 给下列长度排队。

4米　124厘米　98厘米　1米50厘米

（　　）＜（　　）＜（　　）＜（　　）

二、火眼金睛，判对错。（对的在括号里画“√”，错的画“×”）（每小题1分，共5分）

1. 100厘米长的钢丝比1米长的绳子长。（　　）

2. 1岁的亮亮身高约80厘米。（　　）

3.  从直尺上的刻度“2”爬到刻度“6”，爬了6厘米。（　　）

4.  左图中有3条线段。（　　）

5. 黑板的边、圆桌面的边都是线段。（　　）

三、仔细推敲，选一选。（将正确答案的序号填在括号里）（每小题2分，共16分）

1. 下面三个图形中是线段的是（　　）。

①　②　③ 

2. 下面物体中厚度最接近1厘米的是（　　）。

①银行卡的厚度　②《新华字典》的厚度　③数学书的厚度

3. 大约是25米的是（　　）。

①爸爸的身高　②共享单车的长度　③一节动车车厢的长度

温馨提示：请不要在密封线内答题哦！

关注微信公众号“教辅资料站”获取更多学习资料

4. 不是测量长度的工具的是（　　）。

①　②　③

5. 右图中连接每两个点画线段，一共可以画（　　）条线段。

①2　②3　③4

6. 下面比 1 米高的是（　　）。

①　②　③

7. 5 个 1 元硬币大约厚（　　）。

①1 厘米　②1 米　③5 厘米

8. 这棵大树一周的长大约是（　　）。



①1 米　②5 米　③9 米

四、动手操作，我能行。（共 32 分）

1. 数一数下面的图形中各有几条线段。（每空 3 分，共 12 分）



（　）条　（　）条　（　）条　（　）条

2. 量一量，填一填。（每空 2 分，共 14 分）



3. 画一画。（6 分）

在蜗牛后边 3 厘米处画一面小旗，在前边 1 厘米处画一朵小花。

五、聪明的你，答一答。（共 23 分）

1.



小熊需要买门票吗？为什么？（5 分）

2. 把这些小正方体排成一行，长（　　）厘米。（5 分）



3. （1）蚂蚁从家出发去公园玩，至少爬多少厘米？（6 分）

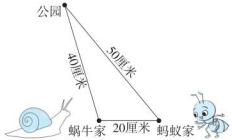

（2）如果蚂蚁从家出发先到蜗牛家，再和蜗牛一起去公园，蚂蚁至少要爬多少厘米？（7 分）

★挑战题：**天才的你，试一试。**（10 分）

下面这把尺子有些刻度看不清了，只有 5 个刻度清晰，用它可以量出哪几种长度？



关注微信公众号“教辅资料站”获取更多学习资料

荣德基 好卷 二年级 数学 上（RJ版）

单元培优测试卷

第 2 单元 100以内的加法和减法（二）

时间：60分钟　满分：100分+10分

题号	一	二	三	四	五	挑战题	总分
得分							

一、仔细审题，填一填。（每空 0.5 分，共 20 分）

1. 在计算 100 − (25 + 35)时，应先算(　　)法，再算(　　)法，结果是(　　)。
2. 比 78 少 29 的数是（　　），比 36 多 29 的数是（　　）。
3. 最大的两位数与最小的两位数的差是（　　）。
4. 按规律填一填。
   18，24，30，(　　)，(　　)，48，(　　)，(　　)。
   81，72，63，(　　)，(　　)，36，(　　)，(　　)。
5. 快乐碰碰车。（找规律，填一填）



6. 里藏着几？

   25 + 24 = ◯ 9　　43 + 29 = ◯ 2　　64 − 18 = ◯ 6　　80 − 27 = ◯ 3

7. 在◯里填上“ > ”“ < ”或“ = ”。

   41 − 7 ◯ 35　　54 + 8 ◯ 62　　43 + 17 ◯ 50 − 4

   25 + 8 ◯ 32　　40 − 8 ◯ 38　　63 − 13 ◯ 42 + 18

8. 在括号里填上合适的数。
   28 + (　　) = 50　　65 − (　　) = 36　　(　　) − 27 = 43

9. 算出每组中上下两个数的和与差。



   和：_____　　_____　　_____　　_____

   差：_____　　_____　　_____　　_____

10. 一个文具盒 38 元，比书包便宜 9 元，一个书包（　　）元。

二、仔细推敲，选一选。（将正确答案的序号填在括号里）（每小题 2 分，共 16 分）

1. 得数小于 50 的算式是（　　）。
   ① 70 − 21　　② 34 + 25　　③ 67 − 9

2. 右图用算式表示是（　　）。



   ① 76 − 44　　② 86 − 34
   ③ 86 − 44　　④ 42 + 44

3. 不计算，下面（　　）是不进位加法。
   ① 56 + 39　　② 32 + 48　　③ 62 + 17

4. 如右图，双十一网购优惠活动时，丽丽买了一个文具盒，花了26 元，这个文具盒原价是（　　）元。



   ① 17　　② 35　　③ 45

5. 一套《百科全书》的价格如右图，国庆促销期间，每套书优惠 16 元。买这套《百科全书》要付（　　）元。



   ① 16　　② 64　　③ 96

6. 结果与 75 − 40 − 25 的结果相等的算式是（　　）。
   ① 75 − (40 − 25)　　② 75 − 40 + 25　　③ 75 − (40 + 25)

7. 豆豆妈妈购买一个篮球和一个足球，付 60 元够吗？（　　）
   ① 够　　② 不够　　③ 无法确定



8. 用竖式计算“48 + 6”时，8 和 6 要对齐，是因为（　　）。
   ① 8 和 6 比较大　　② 8 和 6 比较接近　　③ 8 和 6 都表示几个一

三、下面的计算对吗？把不对的改正过来。（每小题 2 分，共 8 分）

1. 46 − 26 = 2

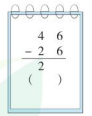

   改正：

2. 38 + 5 = 88

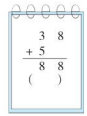

   改正：

3. 65 + (42 − 19) = 98



   改正：

4. 92 − (38 + 27) = 81

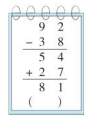

   改正：

姓名　学号　班级　学校

注意保持卷面整洁，请不要在密封线内答题哦！

荣德基 好卷 微信公众号

教辅资料站

关注微信公众号“教辅资料站”获取更多学习资料

四、细心的你，算一算。（共 33 分）

1. 勇夺小旗。（每空 1 分，共 8 分）

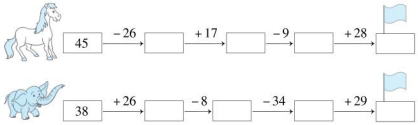

2. 列竖式计算。（每小题 2 分，共 12 分）

18 + 27 =　　82 − 46 =　　36 + 49 =

74 − 26 + 35 =　　98 − (50 − 27) =　　75 + (36 − 18) =

3. 把同一条线上的三个数加起来。（每空 1 分，共 7 分）

（1）

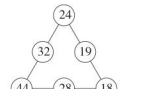

（2）



4. 看图列式计算。（每小题 3 分，共 6 分）

（1）



（2）



五、聪明的你，答一答。（共 23 分）

1. 博爱小学进行冬季 1000 米中长跑比赛。芳芳离终点还有多少米？（7 分）



2. 今年的植树节，二年级同学原计划种树 80 棵，实际上午种树 45 棵，下午种树 38 棵。一共种树多少棵？实际比原计划多种多少棵？（8 分）

3.



好消息：商场搞促销活动，满 80 元减 10 元。

（1）买一辆玩具汽车和一个布娃娃，要花多少钱？（4 分）

（2）买一架玩具飞机和一个哪吒玩具，要花多少钱？（4 分）

★**挑战题：天才的你，试一试。**（10 分）

在□里填上合适的数。

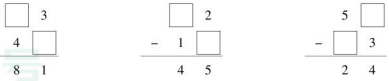

关注微信公众号“教辅资料站”获取更多学习资料

荣德基 好卷 归类培优测试卷

二年级 数学 上（R版）

1. 计算

时间：60分钟　满分：100分+10分

题号	一	二	三	四	五	六	挑战题	总分
得分								

一、仔细审题，填一填。（每空1分，共35分）

1. 在○里填上“＞”“＜”或“＝”。

96－60○35　　4×8○9×3　　40＋34○30＋44

71＋8○99－19　　6×9＋4○60　　7×8－7○7×7

2. 按规律填数。

（1）33　41　49　（　　）　（　　）

（2）1　4　9　16　（　　）　（　　）

（3）63　56　49　（　　）　（　　）

3. 72比36多（　　），比74少19的数是（　　）。

4. 27连续加8：27，（　　），（　　），（　　）。

5. 72连续减9：72，（　　），（　　），（　　）。

6. 8×5＝40读作：（　　），其中8是（　　），40是（　　），用到的口诀是（　　）。

7. 6＋6＋6＋6＋6＋3＝（　　）×（　　）＋（　　）

8. 根据口诀七九六十三写出乘法算式：（　　），（　　）。

9. （　　）里最大能填几？

（　　）×9＜45　　50＞（　　）×7　　36＞8×（　　）

10. 苹果里藏着几？

47＋12＝□9　　52－24＝□8　　47－28＝□9

二、仔细推敲，选一选。（将正确答案的序号填在括号里）（每小题1分，共8分）

1. 2个7相乘是（　　）。

①14　　②49　　③77

2. 下面的算式结果最接近80的是（　　）。

①37＋48　　②91－17　　③95－16

3. 一根铁丝长50米，第一次用去21米，第二次用去27米，第一次比第二次少用（　　）米。

①2　　②6　　③48

4. 一个数减去（　　），还得原数。

①相同的数　　②0　　③1

5. 能用口诀六六三十六计算的算式是（　　）。

①6×6　　②6＋6　　③6－6

6. 6×6＝□×4，□应填（　　）。

①6　　②8　　③9

7. 下面算式中与9×8得数相等的是（　　）。

①9＋8　　②9×7＋9　　③9×7＋8

8. 要使46＋2□得数的十位数字是7，□里可以填（　　）。

①2　　②3　　③4

三、细心的你，算一算。（共27分）

1. 直接写出得数。（每小题0.5分，共6分）

35＋55＝　　91－37＝　　6×5＝　　81＋9＝

68－20＝　　8×4＝　　9×8＝　　3×9＝

4×9＝　　3×6＝　　45－35＝　　5×5＝

2. 帮大象搬石头。（每小题1分，共6分）

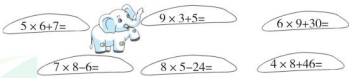

3. 列竖式计算。（每小题1.5分，共9分）

56＋32＝　　83－28＝　　75－18＋43＝

温馨提示：请不要在密封线内答题哦！

荣德基好卷 微信服务号 教辅资料站

关注微信公众号“教辅资料站”获取更多学习资料

92 − 47 =　　46 + 26 =　　12 + (84 − 63) =

4. 在○里填上“+”“−”或“×”。(每小题1分，共6分)

4 ○ 5 = 20　　38 ○ 16 = 22　　29 ○ 48 = 77

48 ○ 8 = 40　　15 ○ 19 = 57 ○ 23　　8 ○ 2 = 2 ○ 3

四、在□里填上合适的数。(每小题2分，共6分)

$$\begin{array}{r} 8\ \square \\ -\ \square\ 6 \\ \hline 4\ \ 3 \end{array} \qquad \begin{array}{r} \square\ 5 \\ +\ 2\ \square \\ \hline 5\ \ 4 \end{array} \qquad \begin{array}{r} \square\ 6 \\ -\ 3\ \square \\ \hline 2\ \ 8 \end{array}$$

五、把同一条线上的三个数加起来。(每空1分，共9分)



六、聪明的你，答一答。(共15分)

1. 根据给出的信息提出相应的问题并解答。(3分)



(1) 提问：_____

算式：_____

(2) 提问：_____

算式：_____

2. 每天晚上睡觉前，爸爸都要打开“学习强国”平台的读书栏目，让芳芳听一会儿有声书。前天芳芳听了21分钟《童话故事》，昨天听了16分钟《国学经典》，今天听《家风故事》的时间比前天听《童话故事》少4分钟。

(1) 芳芳今天听《家风故事》多少分钟？(3分)

(2) 这三天芳芳一共听有声书多少分钟？(3分)

3. “低碳生活”是一种环保、节约又时尚的生活方式，我们每个人都应该践行低碳环保的生活。下面是低碳生活的一个小场景，请你根据信息解决下面的问题。



(1) 水杉有多少棵？(3分)　　(2) 银杏树有多少棵？(3分)

★**挑战题：天才的你，试一试。**(10分)

小马虎做一道乘法试题，把其中的一个乘数3看成了8，算出的得数是56。正确的积是多少？

关注微信公众号“教辅资料站”获取更多学习资料

2. 实际应用

时间：60分钟　满分：100分+10分

题号	一	二	三	四	五	挑战题	总分
得分							

一、仔细审题，填一填。（第6小题3分，第8小题1分，其余每小题2分，共20分）

1. 一只蝉有6条腿，6只蝉有（　　）条腿，9只蝉有（　　）条腿。

2. 
一共有（　　）个轮子。

3. 

求第1棵树与第9棵树相距多少米，列式是（　　）。

4. 二（1）班男生有23人，女生比男生多3人，女生有（　　）人，一共有（　　）人。

5. 

每件优惠8元，买上面这两件一共（　　）元。

6. 淘气在计算他买的3样东西一共花了多少钱时，想到下面两种计算方法：

20+30+40=90	24	54
4+1=5	+30	+41
90+5=95	54	95

淘气买的这3样东西的价钱分别是□□元、□□元和□□元。

7. 阳光小学开展“一起读好书”的亲子共读经典活动。活动中，菲菲看一本90页的国学著作，第一天看了39页，第二天看了43页，两天一共看了（　　）页，还有（　　）页没看。

8. 一代武侠小说泰斗金庸先生，写了一副对联：“飞雪连天射白鹿，笑书神侠倚碧鸳。”请用数学算式计算这副对联中的字数：（　　）。

9. 小明拿着50元钱去商店。


10. 研学社团组织学生参观李时珍医药馆学习传统文化。前去参观的学生分成5个小组，前4个小组每组有7人，第5小组有8人，参观李时珍医药馆的有（　　）人。

二、仔细推敲，选一选。（将正确答案的序号填在括号里）（每小题2分，共16分）

1. 刺猬妈妈和小刺猬到森林里采果子，小刺猬采了16个果子，刺猬妈妈比小刺猬多采15个。刺猬妈妈采了（　　）个果子。
① 31　② 47　③ 92

2. 汉字“木”的笔画是4画，“森林”这两个字一共有（　　）画。
① 20　② 15　③ 25

3. 一支钢笔8元，30元买4支这样的钢笔够吗？（　　）
① 够　② 不够　③ 无法确定

4. △ △ △照这样的规律摆下去，第9个图形要用（　　）根小棒。
① 18　② 27　③ 36

5. 下面的题目能用算式40－(8＋13）解决的是（　　）。
①汽车上原来有40人，下去了8人，又上来了13人，现在有多少人
②一本书40页，第一天看了8页，第二天看了13页，还有多少页没看
③涛涛有40元，先用去8元，又用去13元，一共用去多少元

6. 二（1）班有男生32人，女生27人，所有人都要上车，每人一个座位，那么下面这辆车（　　）。


①坐不下　②刚好坐满
③还有空位

7. 仁爱小学有两行树，一行8棵，另一行9棵，求一共有多少棵树。列式为（　　）。
① 8×9　② 8×2　③ 8＋9

8. 一件商品28元，付钱的方式不正确的是（　　）。
① 2张10元和8张1元　② 1张20元，1张5元，3张1元
③ 5张5元和1张1元

三、细心的你，算一算。（共32分）

1. 直接写出得数。（每小题1分，共8分）

6×5=	30+56=	8×9=	6×9+6=
25－7=	68－5=	27+30=	31－(40－9)=

2. 列竖式计算。（每小题2分，共12分）

80－16=　　27+47=　　54+17－22=

关注微信公众号“教辅资料站”获取更多学习资料

温馨提示：请不要在密封线内答题哦！

姓名　学号　班级　学校

93 − 46 =　　59 + 38 =　　85 − 42 − 19 =

3. 看图列式计算。（每小题 3 分，共 12 分）

（1）



□○□=□（个）

（2）

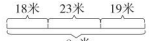

□○□○□=□（米）

（3）



□○□○□=□（只）

（4）

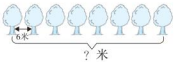

□○□=□（米）

四、动手操作，我能行。（共 6 分）

1. 用你喜欢的方式表示 5 × 7 的意义。（3 分）

2. 画线段图表示 38 + 56 的意义。（3 分）

五、聪明的你，答一答。（共 26 分）

1. 一共有多少名同学在做操？（4 分）



2. 朵朵一家三口去游乐场玩，要花多少钱？（4 分）



3. 买书。（4 分）

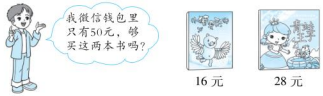

4. 某校师生在进行红歌演唱时，歌手排成 7 排，每排 8 名，前面还站了 1 名领唱，一共有多少名歌手参加演唱吗？（4 分）

5. 小宇今年多少岁？（4 分）



6. 在 2020 年秋季运动会上，二（1）班得了 26 分，二（2）班得了 29 分，二（3）班的得分比二（1）班和二（2）班的总分少 23 分。

（1）二（1）班和二（2）班一共得了多少分？（3 分）

（2）二（3）班得了多少分？（3 分）

★**挑战题：天才的你，试一试。**（10 分）

阳光小学二年级的同学要参加市小交警前律操表演，现在有 57 名同学参加表演，至少增加几名同学就能排成正方形的队形？

关注微信公众号“教辅资料站”获取更多学习资料

2. 期末测试卷（一）

时间：60分钟　满分：100分+10分

题号	一	二	三	四	五	六	挑战题	总分
得分								

一、仔细审题，填一填。（每空1分，共27分）

1. 在（　　）里填上合适的单位。
讲桌高80（　　）。　　学校跑道长200（　　）。
明明身高1（　　）30（　　）。　　妈妈一天工作约8（　　）。
2. 比87少19的数是（　　），比36多27的数是（　　）。
3. 每两人进行一场乒乓球赛，4人一共要赛（　　）场。
4. 在○里填上“+”“-”“×”“>”“<”或“=”。
60厘米○1米　　32○9=23　　6○3>16
35+7○42　　9+9○9×9　　6○6=20○16
5. ◇左图中有（　　）个角，（　　）条线段。
6. 根据口诀八九七十二能写出的乘法算式是（　　）、（　　）。
7. 每束花8元，3束花（　　）元，（　　）束花40元。
8. （　　）里最大能填几？
5×（　　）<28　　9×（　　）<40　　34>6×（　　）
9. 时针从12走到8，走了（　　）时，分针从5走到8，走了（　　）分。
10. 公交车上原来有28人，下去4人，又上来9人，车上现在有（　　）人。

二、火眼金睛，判对错。（对的在括号里画“√”，错的画“×”）（每小题1分，共5分）

1. 看到立体图形的一个面是正方形，那么这个立体图形一定是正方体。（　　）
2. 12时整时，时针和分针成直角。（　　）
3. 乘法算式中的积一定大于每个乘数。（　　）
4. 从1、4、7、9中任意取2个数求和，得数有6种可能。（　　）
5. 一座高架桥限高2米45厘米，一辆车载货高2米50厘米不能通过。（　　）

三、仔细推敲，选一选。（将正确答案的序号填在括号里）（每小题1分，共8分）

1. 汉字“人”的笔画是2画，“众人”的笔画是（　　）画。
①6　　②12　　③8
2.  左面钟面表示的时间是（　　）。
①9时20分　　②4时45分　　③5时45分
3. 汪老师、李老师、陈老师分别教音乐、美术、体育中的一门课程，并且所教课程各不相同，三位老师有（　　）种不同任教情况。
①4　　②5　　③6
4. 当当过生日时，爸爸给他定做的生日蛋糕如右图，从前面看到的是（　　）。
①  　②  　③ 
5. 如右图，铅笔长（　　）厘米。
①5
②7
③无法确定
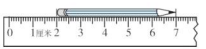

6. 下列问题中不能用乘法解决的是（　　）。
①有2排桌子，一排8张，另一排6张，一共有多少张桌子
②有9排桌子，每排7张，一共有多少张桌子
③有2排桌子，一排8张，另一排也8张，一共有多少张桌子
7. 下面哪两件商品的价格之和最接近50元？（　　）

26元

35元

29元

22元
①  　②  　③ 
8. 下面3个算式中，都有一个数字被笑脸遮住，请你估计一下，得数一定比50小的算式是（　　）。
①70-2☺　　②24+1☺　　③2☺+27

四、细心的你，算一算。（共21分）

1. 看谁算得又对又快。（每小题0.5分，共6分）

23+20=	18+7=	74-30=	3×7-3=
8×9=	23-6=	6×7=	4×8+8=
2×8=	8×7=	6+58=	9-4×2=

2. 列竖式计算。（每小题3分，共9分）
37+29=　　48-29=　　75-18+36=

关注微信公众号“教辅资料站”获取更多学习资料

3. 看图写算式。（每个算式2分，共6分）

（1）



□×□=□（人）　□×□=□（个）

（2）

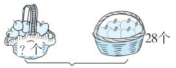

□○□=□（个）

五、动手操作，我能行。（共10分）

1. 下面各图分别是谁看到的？写一写名字。（6分）





（　）　（　）　（　）　（　）

2. 他们可能在什么时间去图书馆看书？圈一圈。（4分）





六、聪明的你，答一答。（共29分）

1. 小花的爸爸今年40岁，小花今年多少岁？妈妈今年多少岁？（5分）



2. 租7条大船和1条小船够吗？（5分）



3. 涛涛、聪聪、侃侃和小泽练习书法，每人要写9个大字，现在他们各写了4个大字。

（1）4人一共要写多少个大字？（5分）

（2）每人还要写几个大字？一共还要写几个大字？（5分）

4.



（1）买一件上衣和一条裤子，一共有（　　）种不同的买法。（3分）

（2）明明想买一件上衣和一条裤子，最多花多少元钱？最少花多少元钱？（6分）

★**挑战题：天才的你，试一试。**（10分）

一桶油连桶重9千克，吃了一半油后连桶重5千克，桶重多少千克？

关注微信公众号“教辅资料站”获取更多学习资料

单元培优测试卷

第 1 单元　长度单位

一、1. 9　13　2. 110　2

3. 7　5　【点拨】既要看“起点”，也要看“终点”，列式是 9 − 4 = 5（厘米）。

4. 5　6　5. 5　6　6. 100

7. 比 1 米高√　比 1 米短√　比 1 米长√

8. 米　厘米　米　9. <　>　>

10. 98 厘米　124 厘米　1 米 50 厘米　4 米

二、1. ×　2. √　3. ×　4. ×　5. ×

三、1. ①　2. ③　3. ③　4. ②　5. ②

6. ②　7. ①　8. ③

四、1. 6　3　12　10

2.

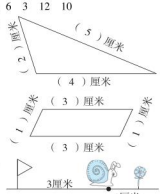

3.

五、1. 1 米 = 100 厘米　100 厘米 > 90 厘米

口答：小熊不需要买门票，它身高不足 1 米。

2. 8

3.（1）至少爬 50 厘米。

（2）20 + 40 = 60（厘米）

口答：蚂蚁至少要爬 60 厘米。

挑战题：用它可以量出 1 厘米、3 厘米、4 厘米、6 厘米、7 厘米、8 厘米六种长度。

【点拨】以 0 刻度为起点，可以量出 1 厘米、4 厘米、7 厘米、8 厘米。

4 − 1 = 3（厘米），7 − 1 = 6（厘米），7 − 4 = 3（厘米），8 − 1 = 7（厘米），8 − 4 = 4（厘米），8 − 7 = 1（厘米），因此还可以量出 3 厘米、6 厘米。所以可以量出 1 厘米、3 厘米、4 厘米、6 厘米、7 厘米、8 厘米六种长度。

第 2 单元　100 以内的加法和减法（二）

一、1. 加　减　40　2. 49　65　3. 89

4. 36　42　54　60　54　45　27　18

5. 82　46　94　44

6. 4　7　4　5

7. <　=　>　>　<　<

8. 22　29　70

9. 和：73　99　64　87

差：17　29　48　53

10. 47

二、1. ①　2. ③　3. ③　4. ②　5. ②

6. ③　7. ②　8. ③

三、1. ×　改正：46 − 26 = 20

$$\begin{array}{r} 46 \\ -\ 26 \\ \hline 20 \end{array}$$

2. ×　改正：38 + 5 = 43

$$\begin{array}{r} 38 \\ +\ \ 5 \\ \hline 43 \end{array}$$

3. ×　改正：65 + (42 − 19) = 88

$$\begin{array}{r} 42 \\ -\ 19 \\ \hline 23 \end{array} \qquad \begin{array}{r} 65 \\ +\ 23 \\ \hline 88 \end{array}$$

4. ×　改正：92 − (38 + 27) = 27

$$\begin{array}{r} 38 \\ +\ 27 \\ \hline 65 \end{array} \qquad \begin{array}{r} 92 \\ -\ 65 \\ \hline 27 \end{array}$$

四、1. 19　36　27　55

64　56　22　51

2. 18 + 27 = 45

$$\begin{array}{r} 18 \\ +\ 27 \\ \hline 45 \end{array}$$

82 − 46 = 36

$$\begin{array}{r} 82 \\ -\ 46 \\ \hline 36 \end{array}$$

36 + 49 = 85

$$\begin{array}{r} 36 \\ +\ 49 \\ \hline 85 \end{array}$$

74 − 26 + 35 = 83

$$\begin{array}{r} 74 \\ -\ 26 \\ \hline 48 \\ +\ 35 \\ \hline 83 \end{array}$$

98 − (50 − 27) = 75

$$\begin{array}{r} 50 \\ -\ 27 \\ \hline 23 \end{array} \qquad \begin{array}{r} 98 \\ -\ 23 \\ \hline 75 \end{array}$$

75 + (36 − 18) = 93

$$\begin{array}{r} 36 \\ -\ 18 \\ \hline 18 \\ +\ 75 \\ \hline 93 \end{array}$$

3.（1）

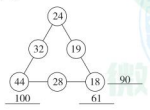

（2）

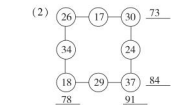

4.（1）16 + 6 = 22（只）　（2）14 − 5 = 9（个）

五、1. 45 + 16 = 61（米）

口答：芳芳离终点还有 61 米。

2. 45 + 38 = 83（棵）

83 − 80 = 3（棵）

口答：一共种树 83 棵。实际比原计划多种 3 棵。

3.（1）49 + 27 = 76（元）

口答：要花 76 元。

（2）53 + 38 = 91（元）

91 > 80　91 − 10 = 81（元）

口答：要花 81 元。

挑战题：

$$\begin{array}{r} \square\,3 \\ +\ 4\ \square\,8 \\ \hline 8\ \ 1 \end{array} \qquad \begin{array}{r} \square\,6\ \ 2 \\ -\ \ 1\ \square\,7 \\ \hline 4\ \ 5 \end{array} \qquad \begin{array}{r} 5\ \ \square\,7 \\ -\ \square\,3\ \ 3 \\ \hline 2\ \ 4 \end{array}$$

第 3 单元　角的初步认识

一、1. 钝　锐　直　钝　2. 1　2　3. 5　2

4. 不同　5. 直　钝　锐　6. 钝　7. 3　9

8. 钝角　直角　锐角

9. 8　【点拨】数角时别漏数了，要按一定的顺序和方法去数。

10. 8

二、1. ×　2. ×

3. ×　【点拨】一个正方体上有 24 个直角。

4. ×　5. √

三、1. ②　2. ②　3. ③　②　4. ②　5. ①

6. ③　7. ②　8. ③

四、1. 锐角：①⑥　钝角：②④　直角：③⑤

2.（1）6　6　1　（2）4　7　1

3.

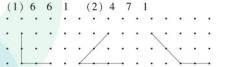

（所画锐角和钝角不唯一）

4. ②　④　③　①

5.（1）



（答案不唯一）

（2）



（答案不唯一）

五、1. 钝　直　锐　有关　大　小

2.（1）角 1　角 6　（2）角 4　角 3

（3）钝　钝

挑战题：一共有 24 个直角。【点拨】每个面上有 4 个直角，6 个面上一共有 24 个直角。

第 4 单元　表内乘法（一）

一、1. 乘

2. 5　3　3 + 3 + 3 + 3 + 3 = 15

3 × 5 = 15

3. 30　5 乘 6 等于 30　五六三十

4. 4　5　2　4　1　5. 12　7　6. 9　12　6

7. 3　15　3 × 5 = 15（个）

8. 30　5 × 6 = 30（人）

9. 3 × 4 = 12　4 × 3 = 12

2 × 6 = 12　6 × 2 = 12

10. 3 × 6 = 18　6 × 3 = 18　2 × 5 = 10

5 × 2 = 10　5 × 5 = 25

二、1. ×　2. √　3. √　4. ×　5. ×

三、1. ③　2. ①　3. ②　4. ③　5. ①　6. ②

7. ②　8. ①

四、1. 20　18　10　18　9　25　30　18

2. 6　5　5　2　6　4　6　3　5

（个别空答案不唯一）

3. ×　+　−　×　×　<　>　<　=

4. 2 × 3 = 6　3 × 5 = 15　4 × 6 = 24

（答案不唯一）

五、1. 3 × 3 = 9（支）

2. 2 × 3 + 1 = 7（人）（或 2 × 4 − 1 = 7（人））

六、1. 4 × 7 + 2 = 30（个）

口答：这首诗（包括诗的题目）一共有 30 个字。

2. 3 × 6 = 18（元）

口答：这本《哈利·波特》18 元。

3.（1）3 × 3 = 9（个）

口答：现在 3 名杂技演员一共转了 9 个呼啦圈。

（2）5 − 3 = 2（个）　3 × 2 = 6（个）

或 3 × 5 = 15（个）　15 − 9 = 6（个）

口答：那么 3 名杂技演员一共还需要 6 个呼啦圈。

4.（1）3 + 6 = 9（杯）

口答：两种酸奶各买一组，一共有 9 杯酸奶。

（2）5 × 6 = 30（杯）

口答：如果买 5 组 6 杯的，一共有 30 杯酸奶。

关注微信公众号“教辅资料站”获取更多学习资料

【点拨】不要认为学了乘法，所有问题就都用乘法解决，要理解乘法的本质。

5. 3×3+4=13（人）

口答：一共有 13 人去旅游。

挑战题：

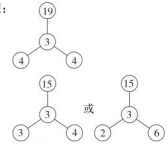

【点拨】从前面两题发现，4×5+3=23，3×6+2=20，所以 4×4+3=（19），（2）×（6）+3=15 或（3）×（4）+3=15。

期中测试卷

一、1. 厘米　米　厘米　厘米　2. 3　5

3. ×　+　×　=　<　>

4. 51　42

5. 1　200　1　45　4

6. 18　6

7. 2　3　1　2　3　5

8. 4+4+4=12（个）　3×4=12（个）

4×3=12（个）　三四十二

9. 5　32　74　4　36　47

10.（1）15　20　（2）37　92

二、1. √　2. √　3. ×　4. √　5. ×

三、1. ②　2. ③　3. ①

4. ①　【点拨】观察所拼成的三个角并用三角尺上的直角比一比即可得出结论。

5. ①　6. ②　7. ①　8. ②

四、1. 24　26　37　78　42　50

2. 58+29=87　　71−32=39

$$\begin{array}{r} 58 \\ +\ 29 \\ \hline 87 \end{array} \qquad \begin{array}{r} 71 \\ -\ 32 \\ \hline 39 \end{array}$$

64+18−35=47　　48+52=100

$$\begin{array}{r} 64 \\ +\ 18 \\ \hline 82 \\ -\ 35 \\ \hline 47 \end{array} \qquad \begin{array}{r} 48 \\ +\ 52 \\ \hline 100 \end{array}$$

90−76=14　　72−(18+46)=8

$$\begin{array}{r} 90 \\ -\ 76 \\ \hline 14 \end{array} \qquad \begin{array}{r} 18 \\ +\ 46 \\ \hline 64 \end{array} \qquad \begin{array}{r} 72 \\ -\ 64 \\ \hline 8 \end{array}$$

五、1. 6厘米

2.

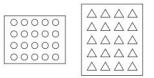

（答案不唯一）

六、1.（1）25+33+29=87（人）

口答：二(2)班～二(4)班参加篮球社团的一共有 87 人。

（2）33−28=5（人）

口答：二(6)班比二(3)班参加社团的少 5 人。

2. 4×5+5=25（个）

口答：这首诗一共有 25 个汉字。

3.（1）4+6=10（粒）

口答：一共 10 粒。

（2）3×6=18（粒）

口答：一共 18 粒。

4.（1）42−24=18（个）

口答：小灰采了 18 个蘑菇。

（2）42+18+25=85（个）

口答：它们一共采了 85 个蘑菇。

5.（1）28+36=64（元）　64>50

64−5=59（元）

口答：买一套衣服需要 59 元钱。

（2）（答案不唯一）买一个玩具兔和一辆玩具汽车需要多少元钱？

19+36=55（元）　55>50

55−5=50（元）

口答：买一个玩具兔和一辆玩具汽车需要 50 元钱。

挑战题：5×5=25（人）　6×6=36（人）

口答：可能有 25 人或 36 人做操。

【点拨】排成正方形队列，说明每排和每列的人数相等。人数在 20 和 40 之间，5×5=25（人），6×6=36（人），因此可能有 25 人或 36 人。

第 5 单元　观察物体（一）

一、1. ②　①　③　2. ③　②　①　④

3. 5　3　4　4. ③　①　②

二、1. √　2. ×　3. √　4. ×　5. √

三、1. ①　2. ①　3. ①　4. ②

5. ②　6. ①　7. ①　8. ③

四、1.

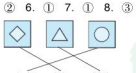

2.

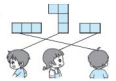

3.



4.

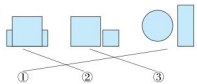

五、1. 52−3　52−3=49　53−23　53−23=30

2. 妈妈　爸爸　小猫　小明

第 6 单元　表内乘法（二）

一、1. 七　八　五　五　五十四　九

2. 54　49　3. 3　5　6　5　4. 45　8

5. 6　2　56

6. 27　57

7. 7　21　49

8. ×　−　<　×　+　>

9. 7　6　6

10.（1）45　54　（2）16　11

二、1. ×　2. ×　3. √　4. √　5. ×

三、1. ③　【点拨】正方体每个面上有 4 个直角，共有 6 个面，列式是 6×4=24（个）。

2. ③　3. ②　4. ②　5. ③　6. ②　7. ②

8. ③

四、1. 14　36　33　54　24　42　40　32　38　13　3　36

2.

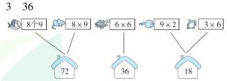

五、1. 6×7+4=46（块）

2. 3×9=27（米）

【点拨】可以直接数出有 9 个间隔，3×9=27（米）。

六、1. 6×9=54（元）

54<60

口答：够。

2. 5×8+8=48（元）

口答：一共需要 48 元钱。

3. 2×4=8（个）　3×7=21（个）

8+21=29（个）　29<30

口答：剩下的组装 7 辆三轮车够。

4.（1）8+3=11（元）

口答：一共 11 元。

（2）6×7=42（元）

口答：一共 42 元。

（3）（答案不唯一）买 5 份豆角炒肉和 1 份西红柿鸡蛋汤，一共多少钱？

5×5+2=27（元）

口答：一共 27 元。

5. 1+2=3（名）　3×8=24（名）

口答：应安排 24 名同学。

6.（1）6×8=48（朵）

口答：第一小组一共做了 48 朵纸花。

（2）48+10=58（朵）

口答：第二小组做了 58 朵纸花。

挑战题：1. ☆=7　○=5

2. △=9　□=7

第 7 单元　认识时间

一、1.（1）小时　（2）分

（3）分

2. 35　7　【点拨】分针走 1 大格是 5 分，时针走 1 大格是 1 时。

3. 60　3　1　30

4. 4；00

5.



结束时间

6. 8；15　8；25

7. 6　8. 3　9　9. 香格里拉

10.（1）



（2）9；55　5

二、1. ×　6 时 10 分

2. √

3. ×　9；55

4. ×　8 时 35 分

三、1. ②　2. ②　3. ②　4. ③　5. ③

6. ③　7. ②　8. ③

关注微信公众号“教辅资料站”获取更多学习资料

四、1. 6:15　6 时 15 分　1:45　1 时 45 分　7:00　7 时

2.（1）小明 √

【点拨】时间在“前”，对应“早”；时间在“后”，对应“晚”。

（2）



3.



4. 6:30　10:35　5:15　6:40

五、1.



（　）（√）（　）（　）

2.



挑战题：



【点拨】前 3 个钟面上的时间分别是 4:25，5:25，6:25。每相邻的两个钟面上的时间相差 1 小时，所以第 4 个钟面上的时间是 7:25。

第 8 单元　数学广角——搭配（一）

一、1. 6　54　24　4　2. 6　3. 3　4. 3

5. 1×5+5=10（元）（答案不唯一）

6. 6　7. 9　8. 3　9. 3　10. 2

二、1. ③　2. ②　3. ①　4. ③　5. ③　6. ③

7. ③　8. ②

三、1. 10　52　30　7　83　28　45　76　53　70　33　11

2. 25+38=63

$$\begin{array}{r} 2\ 5 \\ +\ 3\ 8 \\ \hline 6\ 3 \end{array}$$

80−69=11

$$\begin{array}{r} 8\ 0 \\ -\ 6\ 9 \\ \hline 1\ 1 \end{array}$$

58−(17+25)=16

$$\begin{array}{r} 1\ 7 \\ +\ 2\ 5 \\ \hline 4\ 2 \end{array} \qquad \begin{array}{r} 5\ 8 \\ -\ 4\ 2 \\ \hline 1\ 6 \end{array}$$

46−17=29

$$\begin{array}{r} 4\ 6 \\ -\ 1\ 7 \\ \hline 2\ 9 \end{array}$$

36−28=8

$$\begin{array}{r} 3\ 6 \\ -\ 2\ 8 \\ \hline 8 \end{array}$$

64+18−56=26

$$\begin{array}{r} 6\ 4 \\ +\ 1\ 8 \\ \hline 8\ 2 \\ -\ 5\ 6 \\ \hline 2\ 6 \end{array}$$

四、6

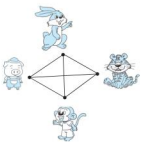

五、1. 20+10+5=35（元）

20+10=30（元）

20+5=25（元）

10+5=15（元）

20 元、10 元、5 元

口答：可以组成 7 种不同的币值，分别是 35 元、30 元、25 元、15 元、20 元、10 元、5 元。

2. ①小米粥、慢头

②八宝粥、慢头

③八宝粥、包子

④小米粥、包子

口答：有 4 种不同的搭配方法。

3.（答案不唯一）



4.（1）一共有 6 种不同的选法，分别是①②、①③、①④、②③、②④、③④。

（2）一共有 4 种不同的选法，分别是①②、①③、②④、③④。

5. ①选故事书和科技书　18+12=30（元）

②选故事书和科学家　18+9=27（元）

③选科技书和科学家　12+9=21（元）

口答：有 3 种选法，最多需要 30 元，最少需要 21 元。

挑战题：一共可以表示出 15 种不同的信号。

归类培优测试卷

1. 计算

一、1. >　>　=　<　<　=

2.（1）57　65　（2）25　36　（3）42　35

3. 36　55

4. 35　43　51

5. 63　54　45

6. 8 乘 5 等于 40　乘数　积　五八四十

7. 6　5　3　8. 7×9=63　9×7=63

9. 4　7　4　10. 5　2　1

二、1. ②　2. ③　3. ②　4. ②　5. ①　6. ③

7. ②　8. ③

三、1. 90　54　30　90　48　32　72　27　36　18　10　25

2. 37　32　84　50　16　78

3. 56+32=88

$$\begin{array}{r} 5\ 6 \\ +\ 3\ 2 \\ \hline 8\ 8 \end{array}$$

83−28=55

$$\begin{array}{r} 8\ 3 \\ -\ 2\ 8 \\ \hline 5\ 5 \end{array}$$

75−18+43=100

$$\begin{array}{r} 7\ 5 \\ -\ 1\ 8 \\ \hline 5\ 7 \\ +\ 4\ 3 \\ \hline 1\ 0\ 0 \end{array}$$

92−47=45

$$\begin{array}{r} 9\ 2 \\ -\ 4\ 7 \\ \hline 4\ 5 \end{array}$$

46+26=72

$$\begin{array}{r} 4\ 6 \\ +\ 2\ 6 \\ \hline 7\ 2 \end{array}$$

12+(84−63)=33

$$\begin{array}{r} 8\ 4 \\ -\ 6\ 3 \\ \hline 2\ 1 \\ +\ 2\ 1 \\ \hline 3\ 3 \end{array} \qquad \begin{array}{r} 1\ 2 \\ \\ \hline \\ \\ \hline \end{array}$$

4. ×　−　+　−　+　−　−　×

四、

$$\begin{array}{r} 8\ \boxed{9} \\ -\ \boxed{4}\ 6 \\ \hline 4\ 3 \end{array} \qquad \begin{array}{r} \boxed{2}\ 5 \\ +\ 2\ \boxed{9} \\ \hline 5\ 4 \end{array} \qquad \begin{array}{r} \boxed{6}\ 6 \\ -\ 3\ \boxed{8} \\ \hline 2\ 8 \end{array}$$

五、

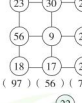



六、1.（答案不唯一）

（1）裤子多少元？　56−18=38（元）

（2）裙子多少元？　38+12=50（元）

2.（1）21−4=17（分钟）

口答：芳芳今天听《家风故事》17 分钟。

（2）21+16+17=54（分钟）

口答：这三天芳芳一共听有声书 54 分钟。

3.（1）6×8=48（棵）

口答：水杉有 48 棵。

（2）6+8=14（棵）

口答：银杏树有 14 棵。

挑战题：正确的积是 21。

2. 实际应用

一、1. 36　54　2. 27　3. 8×9=72（米）

4. 26　49　5. 48　6. 24　30　41

7. 82　8

8. 7×2=14（个）

9. 14　10. 36

二、1. ①　2. ①　3. ②　4. ②　5. ②　6. ①　7. ③　8. ③

三、1. 30　86　72　60　18　63　57　0

2. 80−16=64

$$\begin{array}{r} 8\ 0 \\ -\ 1\ 6 \\ \hline 6\ 4 \end{array}$$

27+47=74

$$\begin{array}{r} 2\ 7 \\ +\ 4\ 7 \\ \hline 7\ 4 \end{array}$$

54+17−22=49

$$\begin{array}{r} 5\ 4 \\ +\ 1\ 7 \\ \hline 7\ 1 \end{array} \qquad \begin{array}{r} 7\ 1 \\ -\ 2\ 2 \\ \hline 4\ 9 \end{array}$$

93−46=47

$$\begin{array}{r} 9\ 3 \\ -\ 4\ 6 \\ \hline 4\ 7 \end{array}$$

59+38=97

$$\begin{array}{r} 5\ 9 \\ +\ 3\ 8 \\ \hline 9\ 7 \end{array}$$

85−42−19=24

$$\begin{array}{r} 8\ 5 \\ -\ 4\ 2 \\ \hline 4\ 3 \end{array} \qquad \begin{array}{r} 4\ 3 \\ -\ 1\ 9 \\ \hline 2\ 4 \end{array}$$

3.（1）91−52=39（个）

（2）18+23+19=60（米）

（3）3×9+4=31（只）

（4）7×6=42（米）

四、1. △△△△△△△（画法不唯一）

2.



五、1. 8+9=17（名）

口答：一共有 17 名同学在做操。

2. 2×8+5=21（元）

口答：要花 21 元。

关注微信公众号“教辅资料站”获取更多学习资料

3. $16+28=44$（元）

$44<50$

口答：够买这两本书。

4. $7\times8+1=57$（名）

口答：一共有 57 名歌手参加演唱。

5. $38-31=7$（岁）

口答：小宇今年 7 岁。

6. （1）$26+29=55$（分）

口答：二（1）班和二（2）班一共得了 55 分。

（2）$55-23=32$（分）

口答：二（3）班得了 32 分。

挑战题：$8\times8=64$　$64-57=7$（名）

口答：至少增加 7 名同学就能排成正方形的队形。

3. 图形与几何问题

一、1. 厘米　米　分钟　米　厘米　小时　厘米　厘米　小时　厘米　米　厘米

2. 60　5　40　15

3. 直　锐

4. 12　12

【点拨】先数没有被遮住的直角个数，再用总数减去没有被遮住的直角个数，即为被遮住的直角个数。或者前、后、左、右四个面各有 2 个直角被遮住，上面有 4 个直角被遮住，所以被遮住的直角有 $2\times4+4=12$（个）。

5. 大　两条边张开

6. 5　2　1　2

7. 3　6

8. 11　11　3　【点拨】根据题意可知，骰子每两个相对面上的点数之和为 7。  的对面是  ，  的对面是  ，  的对面是  ，故从 A 处可看到三面，分别是和  ，$6+2+3=11$（个），从 B 处可看到  和，$5+6=11$（个），从 C 处可看到  和  ，$1+2=3$（个）。

9. 9　9；25　5

二、1. ×　2. √　3. √　4. ×　5. ×

三、1. ②　2. ②　3. ①　4. ②　5. ①

6. ②　7. ②　8. ②

四、1. （1）



（2）



2.

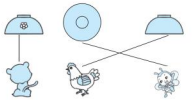

3.



4.



五、1. 1　1　2　2　3　1　4　2　4

2. 钝角　钝角　锐角　钝角

3.  （画法不唯一）

4. 9　10

5. 可以组成 6 种不同的币值。分别为：

①1 元 +5 角 =1 元 5 角

②1 元 +1 角 =1 元 1 角

③1 元 +5 元 =6 元

④5 角 +1 角 =6 角

⑤5 角 +5 元 =5 元 5 角

⑥1 角 +5 元 =5 元 1 角

挑战题：

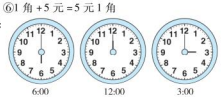

（画法不唯一）

4. 易错题

一、1. 79　61【点拨】不能见到少就用减法。

2. 4　7　8　87

3. 15　4. 27　12　5. 37　51　5　7

6. 4　4　4　7. 3　8. 12　8

9. 七九六十三

10. $8\times2=16$（名）

二、1. ×　2. ×

3. ×　【点拨】有可能拼成锐角或直角。

4. √　5. √

三、1. ③　2. ②

3. ②　【点拨】一共有 4 人。

4. ③　5. ③　6. ②　7. ③　8. ②

四、$48+22=70$

$$\begin{array}{r} 48 \\ +\ 22 \\ \hline 70 \end{array}$$

$71-56=15$

$$\begin{array}{r} 71 \\ -\ 56 \\ \hline 15 \end{array}$$

$92-34-17=41$

$$\begin{array}{r} 92 \\ -\ 34 \\ \hline 58 \\ -\ 17 \\ \hline 41 \end{array}$$

$84-59=25$

$$\begin{array}{r} 84 \\ -\ 59 \\ \hline 25 \end{array}$$

$61-14+26=73$

$$\begin{array}{r} 61 \\ -\ 14 \\ \hline 47 \\ +\ 26 \\ \hline 73 \end{array}$$

$32+(72-36)=68$

$$\begin{array}{r} 72 \\ -\ 36 \\ \hline 36 \end{array} \qquad \begin{array}{r} 32 \\ +\ 36 \\ \hline 68 \end{array}$$

五、1. 计算过程不对。

评价标准	我的评价
相同数位对齐，从个位加起。	√
个位相加满十，向十位进 1。	×

2. ④　①　②　③

3. 吃早饭　做作业　踢足球　吃午饭



六、1. （1）$26+36=62$（页）

$62+1=63$（页）

口答：松松第三天应从第 63 页看起。

【点拨】第三天应从第一天和第二天看的总页数的下一页看起。

（2）$100-62=38$（页）

口答：看了两天后还剩 38 页。

2. $66+25=91$（岁）

口答：屠呦呦今年 91 岁。

3. $4\times8+1=33$（个）

$33<40$

口答：所有的人不能都有座位。

4. $8\times6=48$（人）

$8-6=2$（人）

$2\times6=12$（人）

口答：6 条大船可以坐 48 人。6 条大船还可以坐 12 人。

挑战题：$26+8=34$（千克）

$34=17+17$

$26-17=9$（千克）

口答：需要从第一筐中拿出 9 千克橘子放入第二筐。

综合培优测试卷

1. 期末模拟卷

一、1. 81　18

2. 2　100

3. 4　5　3

4. 3　4

5. 九　七九　四十九

6. 厘米　米

7. 4　20、27、72、70

8. （1）40　32

（2）46　55

9. 7：45　10：05　10：20　6：55

【点拨】最后一个不要看成 7：55，时针只是快到 7，因此是 6：55。

10. 36

二、1. ×　2. √　3. √　4. ×　5. ×

三、1. ①　2. ③　3. ②　4. ③　5. ③

6. ②　7. ③　8. ③

四、1. 22　15　28　72　15　63　21　14

2. $28+67=95$

$$\begin{array}{r} 28 \\ +\ 67 \\ \hline 95 \end{array}$$

$86-27=59$

$$\begin{array}{r} 86 \\ -\ 27 \\ \hline 59 \end{array}$$

$34+(25-18)=41$

$$\begin{array}{r} 25 \\ -\ 18 \\ \hline 7 \\ +\ 34 \\ \hline 41 \end{array}$$

3. （1）$9\times4=36$（米）

（2）$90-38-25=27$（片）

五、1.

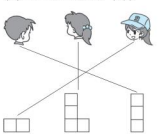

2.



教辅资料站
关注微信公众号"教辅资料站"获取更多学习资料

六、1. 29 + 12 = 41（棵）
29 + 26 + 41 = 96（棵）
口答：二班种了 41 棵树。两个班一共种了 96 棵树。
2. （1）4 × 6 = 24（人）
口答：星星队有 24 人。
（2）4 + 7 = 11（人）
口答：闪闪队有 11 人。
3. （1）8 × 3 = 24（元）
口答：1 盒巧克力 24 元钱。
（2）24 − 19 = 5（元）
口答：1 瓶可乐 5 元钱。
4. （1）5 × 5 + 8 = 33（元）
口答：共花了 33 元钱。
（2）9 × 4 = 36（元）
口答：她买了 4 本故事书。
（3）（答案不唯一）买 2 个笔记本花多少元钱？
2 × 8 = 16（元）
口答：买 2 个笔记本花 16 元钱。

挑战题：5 + 4 = 9（人）
6 × 9 = 54（人）
口答：二（6）班共有 54 人在做操。
【点拨】每列的人数：5 + 4 = 9（人），一共的人数：6 × 9 = 54（人）。

2. 期末测试卷（一）

一、1. 厘米　米　米　厘米　小时
2. 68　63
3. 6
4. <　−　×　=　<　×　+
5. 10　7
6. 8 × 9 = 72　9 × 8 = 72
7. 24　5
8. 5　4　5
9. 8　15
10. 33

二、1. ×　2. ×　3. ×　4. √　5. √

三、1. ③　2. ②　3. ③　4. ②　5. ①
6. ①　7. ③　8. ②

四、1. 43　25　44　18　72　17　42　40　16　56　64　1
2. 37 + 29 = 66　　48 − 29 = 19

```
  3 7        4 8
+ 2 9      − 2 9
  6 6        1 9
```

75 − 18 + 36 = 93

```
  7 5
− 1 8
  5 7
+ 3 6
  9 3
```

3. （1）3 × 4 = 12（人）
2 × 6 = 12（个）
（2）73 − 28 = 45（个）

五、1. 红红　欢欢　聪聪　明明
2. 圆第三个

六、1. 40 − 26 = 14（岁）
14 + 21 = 35（岁）
口答：小花今年 14 岁，妈妈今年 35 岁。
2. 7 × 6 = 42（人）
42 + 3 = 45（人）
45 < 46
口答：租 7 条大船和 1 条小船不够。
3. （1）4 × 9 = 36（个）
口答：4 人一共要写 36 个大字。
（2）9 − 4 = 5（个）
4 × 5 = 20（个）
口答：每人还要写 5 个大字，一共还要写 20 个大字。
4. （1）9
（2）42 + 34 = 76（元）
36 + 28 = 64（元）
口答：最多花 76 元钱，最少花 64 元钱。

挑战题：2 × 5 = 10（千克）
10 − 9 = 1（千克）
口答：桶重 1 千克。

3. 期末测试卷（二）

一、1. 米　厘米　分钟　小时
2. 56
3. 54　80
4. <　>　<　=　>　<
5. −　−　×　+　−　+　−　×　+　×
6. 8
7. 6　4　4　1
8. （1）43　52
（2）66　60　54
9. 5　5　8　7
10. 6　2　9　4　3　8（答案不唯一）

二、1. √　2. ×　3. √　4. √　5. ×

三、1. ②　2. ③　3. ①　4. ②　5. ②
6. ①　7. ②　8. ③

四、1. 30　49　72　32　54　12　54　42　48　47　25　77
2. 3　4　6　9　9　7
3. 38 + 39 = 77　　85 − 68 = 17

```
  3 8        8 5
+ 3 9      − 6 8
  7 7        1 7
```

47 + (63 − 29) = 81

```
  6 3
− 2 9
  3 4
+ 4 7
  8 1
```

五、1. ○ ○ ○ ○ ○　（画法不唯一）
○ ○ ○ ○ ○
○ ○ ○ ○ ○
○ ○ ○ ○ ○
○ ○ ○ ○ ○
○ ○

2.

7时10分　11时55分　9:30

3.
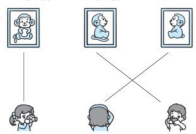

六、1. （1）

	田径	篮球	足球	合计
二（1）班	33	18	16	67
二（2）班	39	15	36	90
二（3）班	36	23	26	85

（2）二（2）
2. 4 × 5 + 4 = 24（个）
口答：这首诗一共有 24 个汉字。
3. 4 + 6 = 10（瓶）　2 × 6 = 12（瓶）
口答：李阿姨买了甲、乙两种牛奶各 1 盒，共 10 瓶。王阿姨买了 2 盒乙种牛奶，共 12 瓶。
4. （1）6 × 8 = 48（元）
48 + 26 = 74（元）
口答：买 6 个魔方和 1 个木马 74 元。
（2）48 + 39 = 87（元）　87 − 10 = 77（元）
口答：买最贵的两样花 77 元。

挑战题：2 + 1 = 3（次）
口答：至少要试 3 次，才能保证将 3 把钥匙和 3 把锁全部配套。
【点拨】先拿 1 把钥匙去开 3 把锁，连开 2 把没打开，则一定能打开剩下的一把，这样试了 2 次，完成了第一把钥匙的配套，以此类推，2 + 1 = 3（次）。

核心考点突破卷

1. 常见的长度单位及其应用

一、1. 5　10　2. 100　1
3. 500　115　3　2　30
4. 厘米　厘米　米

二、1. ×　2. ×　3. √　4. ×　5. √

三、1. ③　2. ③　3. ②

四、1. 1　5　6
2. 15 米 > 1 米 50 厘米 > 125 厘米 > 1 米 > 98 厘米
3. （1）3厘米
（2）


五、1. 4　②　4
2. 3
3. （答案不唯一）蚂蚁从③号路回家需要走几厘米？
4 + 2 = 6（厘米）
口答：需要走 6 厘米。

2. 100 以内加减法的计算

一、1. 对齐　个　2. 个　十　10
3. 34　61　42　【点拨】一个加数 = 和 − 另一个加数，被减数 = 差 + 减数，减数 = 被减数 − 差。
4. >　<　>　=　<　<
5. 71　6. 3　4　5

二、×　改正：

```
  4 5
+ 3 8
  8 3
```

×　改正：

```
  8 2
− 1 7
  6 5
```

三、1. 50　28　56　35　57　33　74　5　83　26　77　68
2. 35 + 26 = 61　　90 − 27 = 63

```
  3 5        9 0
+ 2 6      − 2 7
  6 1        6 3
```

46 − 18 = 28

```
  4 6
− 1 8
  2 8
```


教辅资料站
关注微信公众号"教辅资料站"获取更多学习资料

$85-(12+39)=34$

$\begin{array}{r} 1\ 2 \\ +\ 3\ 9 \\ \hline 5\ 1 \end{array}$　$\begin{array}{r} 8\ 5 \\ -\ 5\ 1 \\ \hline 3\ 4 \end{array}$

3. 81　85　93
15　27　43
4. $50+46>43+49>77+13>90-32>24+28$
5. (1) 72　66　60　(2) 63　71

四、1. 19　53　28
2.

$\begin{array}{r} 4\ \boxed{7} \\ +\ \boxed{1}\ 6 \\ \hline 6\ 3 \end{array}$

【点拨】$(7)+6=13$，$4+1+(1)=6$。

$\begin{array}{r} \boxed{6}\ 3 \\ -\ 3\ \boxed{4} \\ \hline 2\ 9 \end{array}$

【点拨】$13-(4)=9$，$(6)-1-3=2$。

$\begin{array}{r} 9\ \boxed{9} \\ -\ \boxed{5}\ 3 \\ \hline 4\ 6 \end{array}$

【点拨】$(9)-3=6$，$9-(5)=4$。

3. 求比一个数多（少）多少的数的方法

一、1. 86　72　2. 7　21
3. =　>　>　<　=　>
4. 59　5. 77　35　54
二、1. $56+9=65$（元）　2. $50-18=32$（本）
三、1. $69-16=53$（元）
口答：依依家八月份交电费53元。
2. (1) $62-25=37$（元）
口答：买一支钢笔37元。
(2) $62+37=99$（元）
口答：买一辆小汽车和一支钢笔一共99元。
3. $26+13=39$（个）
$39+26=65$（个）
口答：李师傅需要安装39个垃圾箱。他们一共需要安装65个垃圾箱。
4. (1) $86-5=81$（分）
口答：思思得了81分。
(2) $86+3=89$（分）
口答：乐乐得了89分。
(3)（答案不唯一）涛涛得了多少分？
$86-3=83$（分）
口答：涛涛得了83分。

4. 连加、连减、加减混合运算的计算方法

一、1. (1) 31　35　43
(2) 46　28　19
2. 35分　18分　10分
3. 37　53　60　69
71　53　30　5
4. (1) 50　24　69　33
(2) 73　47　64　30
二、1. ×　改正：$80-46-18=16$

$\begin{array}{r} 8\ 0 \\ -\ 4\ 6 \\ \hline 3\ 4 \\ -\ 1\ 8 \\ \hline 1\ 6 \end{array}$

2. ×　改正：$82-(28+35)=19$

$\begin{array}{r} 2\ 8 \\ +\ 3\ 5 \\ \hline 6\ 3 \end{array}$　$\begin{array}{r} 8\ 2 \\ -\ 6\ 3 \\ \hline 1\ 9 \end{array}$

三、1. 92　73　56　30　76　61
2. (1)

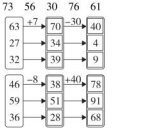

(2)

3. $37+46-54=29$

$\begin{array}{r} 3\ 7 \\ +\ 4\ 6 \\ \hline 8\ 3 \end{array}$　$\begin{array}{r} 8\ 3 \\ -\ 5\ 4 \\ \hline 2\ 9 \end{array}$

$81-32-27=22$

$\begin{array}{r} 8\ 1 \\ -\ 3\ 2 \\ \hline 4\ 9 \end{array}$　$\begin{array}{r} 4\ 9 \\ -\ 2\ 7 \\ \hline 2\ 2 \end{array}$

$40+19+12=71$

$\begin{array}{r} 4\ 0 \\ +\ 1\ 9 \\ \hline 5\ 9 \end{array}$　$\begin{array}{r} 5\ 9 \\ +\ 1\ 2 \\ \hline 7\ 1 \end{array}$

$52+(44-14)=82$

$\begin{array}{r} 4\ 4 \\ -\ 1\ 4 \\ \hline 3\ 0 \end{array}$　$\begin{array}{r} 5\ 2 \\ +\ 3\ 0 \\ \hline 8\ 2 \end{array}$

四、1.

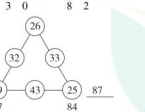

2.

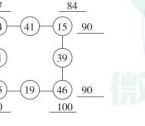

五、1. $100-(38+29)=33$（元）
或 $100-38-29=33$（元）
口答：还剩33元钱。
2. 方法一：$60-(28+16)=16$（只）
方法二：$60-28-16=16$（只）
口答：还要折16只就完成任务。

5. 连续两问的加减法特殊问题

一、1. 20　48
2. 75　50
3. 60　22

二、



三、1. $68-39=29$（元）　$39+50=89$（元）
口答：妈妈今天用支付宝支付了29元，妈妈手机支付宝里就有89元。
2. $28+9=37$（个）　$37+28=65$（个）
口答：月月家下午接了37个订单。月月家今天一共接了65个订单。
3. $36+38=74$（个）　$95-74=21$（个）
$21<25$
口答：二（1）班和二（2）班一共借走了74个篮球。剩下的篮球不够。
4. $29+26=55$（把）
$60-55=5$（把）
口答：他们一共搬了55把椅子。还差5把椅子。
5.（答案不唯一）(1) 文文做了多少道口算题？
$36-5=31$（道）
口答：文文做了31道口算题。
(2) 小刚做了多少道口算题？
$31-12=19$（道）
口答：小刚做了19道口算题。
(3) 小刚比小丽少做多少道口算题？
$36-19=17$（道）
口答：小刚比小丽少做17道口算题。

6. 角的分类及拼组

一、1. 1　2　2. 4　3. 越大　4. 6　24
5. 直　6. 钝角　钝角　锐角　直角
二、1. ×　2. ×　3. √　4. ×　5. √
三、1. ①　2. ③　3. ②　4. ①　5. ①
四、1. 直角：③　⑦
钝角：②　⑤　⑧
锐角：①　④　⑥
【点拨】可以按序号的顺序对应地把各角分类放在相应的位置，这样不乱而且不会遗漏。
2. (1) 3　8　2　6
(2) 3　2　2　4　2　2
3. (1)



（答案不唯一）
(2)



（答案不唯一）

7. 乘法与加法的联系

一、1. (1) 5　2　$2+2+2+2+2=10$
$2\times5=10$　$5\times2=10$
2乘5等于10　5乘2等于10
(2) 3　5　5　3
$3+3+3+3+3=15$
$5+5+5=15$
$3\times5=15$　$5\times3=15$
2. 30
3. (1) 4　3
(2) 0　5
(3) △　5【点拨】先确定相同的加数，再数出个数。
二、×　×　√
三、$4\times3=12$　$6\times3=18$　$3\times2=6$　$5\times5=25$
四、

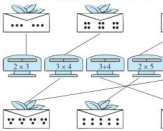

五、

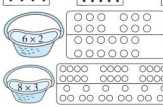

六、1. $9+9+9+9+9=9\times5$
$8+8+8+8+8=8\times5$
$7+7+7+7=7\times4$
$6+6+6+6+6+6=6\times7$
2. $50\times2=50+50=100$
$22\times4=22+22+22+22=88$
$32\times3=32+32+32=96$
七、4　3　12　$4\times3=12$（条）

关注微信公众号“教辅资料站”获取更多学习资料

8. 2～6的乘法口诀

一、1. 3×4=12　三四十二

2. 24　30　36

3. 三十六　五　六　六　四　六

4. 12　4　5. 30　36

二、1. ×　2. ×　3. ×　4. ×　5. √

三、1. 6　4　5　6　5　5　3

2. ×　+　+　×　+　×　−　×

四、1. 4×6=24（盒）

2. 6+4=10（个）

五、1.（1）4×6=24（个）

口答：4人一共要集24个赞。

（2）6−4=2（个）

2×4=8（个）

口答：每人还要集2个赞，4人一共还要集8个赞。

2.（1）3×5=15（瓶）

口答：3盒5瓶装的一共有15瓶。

（2）4+6=10（瓶）

口答：1盒4瓶装的和1盒6瓶装的一共有10瓶。

（3）（答案不唯一）2盒6瓶装的和1盒4瓶装的一共有多少瓶？

2×6+4=16（瓶）

口答：2盒6瓶装的和1盒4瓶装的一共有16瓶。

9. 2～9的乘法口诀的应用

一、1. 15　20

2. 1　2　3　40　4　50　5　60　6

9×7=70−7

9×8=80−8

9×9=90−9

3. 4　35　7

4. 9　8　5　9　6　4

5. ×　+　×　<　<　>

6. 5　3　5　6　4　5

二、1.

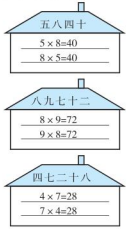

2. 3×5=15

7×8=56

5×8=40

3×8=24

三、1. 7−1=6（段）　6×8=48（米）

口答：一共跑了48米。

2.（1）3×6=18（元）

18+5=23（元）

口答：文文买3支钢笔和1本练习本需要23元。

（2）2×9=18（元）

20−18=2（元）

口答：会找回2元。

（3）（答案不唯一）买2个文具盒和1个球需要多少钱？

2×8=16（元）　16+9=25（元）

口答：买2个文具盒和1个球需要25元。

3. 8×9=72（块）

口答：一共铺了72块地砖。

10. 用乘加、乘减解决问题

一、1. 7　7　49　9　4　36　3　8　24　4　7　28

2. 2　4　**【点拨】**3×8表示3个8相加，就是2个8加1个8或者4个8减去1个8。

7　6　4　3　5　7

4　5　**【点拨】**3×9+9就是3个9加1个9，即4个9，也就是5个9减去1个9。

8　9

二、1. ②　2. ③

三、1. 42　42　45　45　14　14　20　20　12　12

81　81

2.（1）26　32　14　51

（2）22　0　48　27

四、1. 6×8+6=54（个）或7×8−2=54（个）

2. 4×7+2=30（根）或4×8−2=30（根）

五、1. 5×6−3=27（个）　27<28

口答：给二小的28名小志愿者每人一个包子，不够。

2. 6×4+4=28（只）

口答：一共有28只鸭子。

3. 3×6+2=20（个）

口答：他们一共投中20个球。

11. 用2～9的乘法口诀解决较复杂的乘法问题

一、1. 40

2. 3　西红柿　6　黄瓜　4　青椒

二、1. 5　5×8=40（颗）

2. 4×9=36（根）

3. 2×7+6=20（架）（答案不唯一）

三、1.

项目	价钱	人数	钱数
碰碰车	5元/人	4人	20元
划船	9元/人	5人	45元
跳跳马	7元/人	3人	21元

一共：20+45+21=86（元）

口答：一共花了86元。

2. 6×7=42（节）

42−5=37（节）

口答：红队收集了42节旧电池，蓝队收集了37节旧电池。

3. 7×2=14（片）

14×2=14+14=28（片）

口答：一共有28片药。

【点拨】先求出1盒有多少片药，再求出2盒有多少片药，可把14×2转化成加法来计算。

4.（1）6×4=24（本）

口答：四大名著（少儿读本）一共有24本。

（2）5×6+13=43（本）

口答：少儿百科全书和故事书一共有43本。

5. 2×9=18（元）

6×8=48（元）

18+48=66（元）

口答：一共需要66元钱。

6. 方案一：4×8=32（人）

租4辆大车。

方案二：4×8=32（人）

租8辆小车。

方案三：3×8+2×4=32（人）

租3辆大车和2辆小车。

（答案不唯一）

12. 解决生活中的时间问题

一、1. 1　60　2. 60

3. 35　15　4. 12

5.（1）分　（2）小时

（3）分　（4）分

6. 7；00

二、1. ×　7时

2. √

3. ×　3时55分

4. ×　12时半

三、1. ②　2. ③　3. ②

四、1. 9；30　9时半　6；05　6时5分

8；20　8时20分　11；40　11时40分

2. 2；00　8；00　10；00

五、



六、



七、圈第2个钟表。

【点拨】小青放风筝的时间在8；15和11；30之间。

八、



方法技能提升卷

1. 测量物体长度的技巧

一、1. 6　7

2. 7　3　4

3. =　>　<

4. 厘米　米　米　厘米

二、1. √　2. ×　3. ×　4. ×　5. ×

三、1.



80厘米　160厘米　20米　23厘米

2.（1）9米>100厘米>60厘米>20厘米

（2）4米50厘米>4米>70厘米>60厘米>3厘米

3. 6

小兔从第②条路回家要走多少厘米？

5厘米。（所提问题不唯一）

4.（1）



（2）



四、1. 大约80厘米。

2. 13　15　22

2. 用加减法解决问题的技巧

一、1. 25　5

【点拨】老虎今年16岁，狮子今年：16+9=25（岁），再过30−25=5（年）狮子30岁。

2. 10　**【点拨】**易错点：不是求两本书优惠后的价格。

二、1. 25+16=41（个）

【点拨】求总数用加法计算。

2. 90−54=36（元）

3. 100−13−28=59（元）

关注微信公众号“教辅资料站”获取更多学习资料

三、1. (1) 26 + 32 = 58 (元)

口答：一共 58 元钱。

(2)（答案不唯一）

18 + 26 = 44 (元)

44 < 50

口答：可以买一本故事书和一个玩具熊。

(3) 8 × 8 = 64 (元)

口答：他们一共要花 64 元。

2. 39 + 52 = 91 (个)

91 − 28 = 63 (个)

口答：他们一共包了 91 个饺子，此时还剩下 63 个饺子。

3. (1) 48 + 28 = 76 (元)

76 − 10 = 66 (元)

口答：买一套衣服需要 66 元。

【点拨】一套衣服就是一条裤子与一件上衣。先把总价算出来，如果大于 50 元就要减去 10 元，小于 50 元就不用减。

(2) 18 + 28 = 46 (元)

46 < 50

口答：买最便宜的两样物品不能减 10 元钱。

(3)（答案不唯一）买一个玩具熊猫和一架玩具飞机要多少钱？

36 + 39 = 75 (元)

75 − 10 = 65 (元)

口答：买一个玩具熊猫和一架玩具飞机要 65 元。

4. 32 − 4 = 28 (个)

60 − 28 = 32 (个)

口答：芳芳集了 28 个赞，她还需要再集 32 个赞才能获得一张门票。

3. 表内乘法的灵活计算

一、1. 7　64

2. 42

3.（1）28　35　42

（2）55　46

4. <　>　<　=　>　<

5. 5　8　7　4　8　5

6. ×　+　−　+　×　+

二、

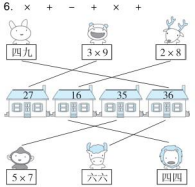

三、49　41　34　54　12　32　40　41　38

四、1.

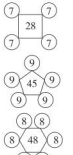

【点拨】想口诀四几二十八，五几四十五，六几四十八，再填数。

2.



（最后两个答案不唯一）

3.

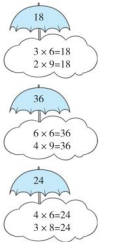

五、5　8　6　7　4　6　5　9　2　8　3　5

六、7　7　9　4　7　8

4. 用乘法解决实际问题的技巧

一、1. 5 × 6 = 30（个）

2. 4 × 4 + 3 = 19（个）　4 × 5 − 1 = 19（个）

3. 8 × 4 = 32（元）

二、1. 2 + 38 = 40（名）

2 × 7 = 14（个）

4 × 6 + 3 = 27（个）

14 + 27 = 41（个）

40 < 41

口答：能坐下。

2.（1）6 + 9 = 15（个）

口答：一共要打 15 个结。

（2）4 × 9 = 36（个）

口答：一共打了 36 个结。

3.（答案不唯一）一共有多少人在吃饭？

3 × 7 + 5 = 26（人）

口答：一共有 26 人在吃饭。

4. 6 + 1 = 7（人）　7 × 8 = 56（个）

口答：他们一共写了 56 个大字。

5.（1）6 × 8 = 48（元）

口答：一共付了 48 元。

（2）3 × 9 + 19 = 46（元）　46 < 50

口答：50 元够。

（3）（答案不唯一）

买 1 双鞋和 1 顶帽子共多少钱？

48 + 9 = 57（元）

口答：买 1 双鞋和 1 顶帽子共 57 元钱。

6. 2 × 8 = 16（元）

45 − 16 = 29（元）

口答：王阿姨还需要付 29 元钱。

7. 2 × 2 + 6 = 10（分）

10 < 12

口答：他的驾照不会被扣留。

【点拨】2 次未按规定系安全带扣 2 × 2 = 4（分），闯红灯 1 次扣 6 分，一共扣 4 + 6 = 10（分），10 < 12，驾照不会被扣留。

5. 线段及角计数的技巧

一、1. ③　【点拨】一共有 1 + 2 + 3 + 4 = 10（条）线段。

2. ①　3. ②　4. ③　5. ②　6. ③

二、1. 2 + 1 = 3（个）

2. 3 + 2 + 1 = 6（个）

3. 4 + 3 + 2 + 1 = 10（个）

加　和

三、1　1　2　6　2　0　0　5　0

5　6　6

四、1.



（画法不唯一）

2. 5

3.

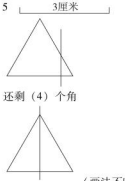

（画法不唯一）

4.（1）



（画法不唯一）

（2）



（3）



（画法不唯一）

6. 时间、排列组合在生活中的技巧

一、1. 半　15　25

2. =　>　=　>　>　<

3. 5；55　5　4. 4　30

二、1. ②　2. ②　3. ①　4. ②

三、（琪琪）

【点拨】9：45 过 1 刻钟是 10：00，说明打电话的时间在 9：45 和 10：00 之间。

四、1. 不行，因为二年级领书的时间是 10：30 以后，8：30是不行的。

2. 2：30 在 2：00 ~ 4：30 之间，他是三年级的学生。

五、天安门　故宫　鸟巢　水立方　国家大剧院

【点拨】根据时间的先后顺序，7：05 → 9：00 → 10：30 → 10：50 → 12：20，所以小明的参观路线是天安门 → 故宫 → 鸟巢 → 水立方 → 国家大剧院。

六、48 + 52 = 100（元）

48 + 36 = 84（元）

52 + 36 = 88（元）

100 > 88 > 84

口答：有三种不同的买法，最多需要 100 元，最少需要 84 元。

关注微信公众号“教辅资料站”获取更多学习资料

好卷

微卷

助冲满分

WEIJUAN ZHUCHONG MANFEN

二年级

数学（上）（R版）



- 核心考点突破卷（12套）
- 方法技能提升卷（6套）

关注微信公众号“教辅资料站”获取更多学习资料

目录



核心考点突破卷

1 常见的长度单位及其应用 …… 1

2 100 以内加减法的计算 …… 3

3 求比一个数多(少)多少的数的方法 …… 5

4 连加、连减、加减混合运算的计算方法 …… 7

5 连续两问的加减法特殊问题 …… 9

6 角的分类及拼组 …… 11

7 乘法与加法的联系 …… 13

8 2 ~6 的乘法口诀 …… 15

9 2 ~9 的乘法口诀的应用 …… 17

10 用乘加、乘减解决问题 …… 19

11 用 2 ~9 的乘法口诀解决较复杂的乘法问题 …… 21

12 解决生活中的时间问题 …… 23

方法技能提升卷

1 测量物体长度的技巧 …… 25

2 用加减法解决问题的技巧 …… 27

3 表内乘法的灵活计算 …… 29

4 用乘法解决实际问题的技巧 …… 31

5 线段及角计数的技巧 …… 33

6 时间、排列组合在生活中的技巧 …… 35

参考答案及点拨(见大卷第 37 ~40 页)

关注微信公众号“数辅资料站”获取更多学习资料

1. 常见的长度单位及其应用

班级_____ 姓名_____ 得分_____ 时间：40分钟 满分：100分

一、仔细审题，填一填。(第3小题8分，其余每空3分，共29分)

1. 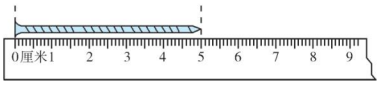

螺丝钉长（　　）厘米

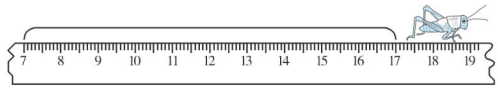

 跳了（　　）厘米

2. 在米尺上从刻度0到100是（　　）cm，也是（　　）m。

3. 5米 = （　　）厘米　　1米15厘米 = （　　）厘米

300厘米 = （　　）米　　230厘米 = （　　）米（　　）厘米

4. 在括号里填上“厘米”或“米”。


跑一步长
大约36（　　）


电视机宽
大约60（　　）


窗帘高
大约2（　　）

二、火眼金睛，判对错。(对的在括号里画“√”，错的画“×”)(每小题3分，共15分)

1. 8岁的乐乐一拃长12米。（　　）
2. 方桌的边、书本的边、黑板的边、圆桌的边都可以看作是线段。（　　）
3. 直尺上从刻度4到刻度10的长度是6厘米。（　　）
4. 30厘米和3米一样长。（　　）
5. •————•——•图中有3条线段。（　　）

三、仔细推敲，选一选。(将正确答案的序号填在括号里)(每小题3分，共9分)

1. 比1米矮的是（　　）。

① 

② 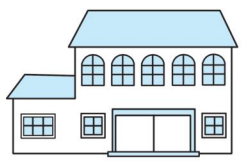

③ 

2. （　　）的高度大约是18米。

① 课桌　　② 小猫　　③ 旗杆

关注微信公众号“教辅资料站”获取更多学习资料

3. 谁说得对？正确的答案是（　　）。

① 小兔乖乖

② 小兔贝贝

③ 小兔宝宝



四、动手操作，我能行。（共 32 分）

1. 数一数，下面图形中各有几条线段？（每空 4 分，共 12 分）

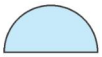

（　　）条

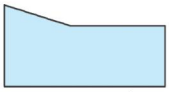

（　　）条

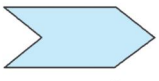

（　　）条

2. 我会排。（10 分）



（　　）>（　　）>（　　）>（　　）>（　　）

3. 画一画。

（1）画一条比 2 厘米长 1 厘米的线段。（4 分）

（2）在小兔子左边 2 厘米处画一棵树，右边 4 厘米处画一朵小花。（6 分）



五、聪明的你，答一答。（共 15 分）

1. 蚂蚁回家一共有（　　）条路可以走，走（　　）号路最近，要走（　　）厘米（用直尺量）。（6 分）

2. 蚂蚁从家出发最少走（　　）厘米可以吃到树叶。（2 分）

3. 请你再提一个数学问题并解答。（7 分）

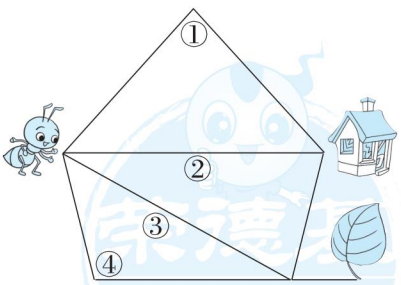

关注微信公众号“教辅资料站”获取更多学习资料

2. 100以内加减法的计算

班级_____ 姓名_____ 得分_____ 时间：40分钟 满分：100分

一、仔细审题，填一填。(每空1分，共18分)

1. 用竖式计算加(减)法时，相同数位要(　　)，从(　　)位加(减)起。

2. 笔算被减数是两位数的减法时，(　　)位不够减，要从(　　)位退1当(　　)。

3. 56 + (　　) = 90　　(　　) − 36 = 25　　78 − (　　) = 36

4. 在○里填上“ > ”“ < ”或“ = ”。

43 + 23 ○ 43 − 23　　5 + 29 ○ 50 + 29　　56 − 7 ○ 56 − 25

56 + 9 ○ 59 + 6　　23 + 38 ○ 33 + 45　　45 − 6 ○ 56 − 16

5. 减数是34，差是37，被减数是(　　)。

6.  里藏着几?

26 + 12 =  8　　26 + 17 =  3　　75 − 24 =  1

二、火眼金睛，判对错。(对的在括号里画“√”，错的画“×”，并改正过来)(每小题4分，共8分)



改正：

(　　)

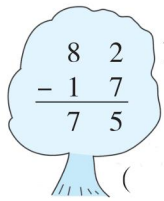

改正：

(　　)

三、细心的你，算一算。(共56分)

1. 口算。(每小题1分，共12分)

42 + 8 =	35 − 7 =	26 + 30 =
75 − 40 =	40 + 17 =	9 + 24 =
80 − 6 =	65 − 60 =	91 − 8 =
56 − 30 =	72 + 5 =	40 + 28 =

关注微信公众号“教辅资料站”获取更多学习资料

2. 列竖式计算。（每小题 3 分，共 12 分）

35 + 26 =　　90 − 27 =　　46 − 18 =　　85 − (12 + 39) =

3. 算出每组的和与差。（每小题 4 分，共 12 分）



和：＿＿＿＿＿＿

差：＿＿＿＿＿＿



和：＿＿＿＿＿＿

差：＿＿＿＿＿＿



和：＿＿＿＿＿＿

差：＿＿＿＿＿＿

4. 把算式按结果从大到小的顺序排一排。（10 分）











＿＿＿＿＿＿ > ＿＿＿＿＿＿ > ＿＿＿＿＿＿ > ＿＿＿＿＿＿ > ＿＿＿＿＿＿

5. 找规律填数。（10 分）

(1)



(2)



四、聪明的你，填一填。（共 18 分）

1. 照样子填数。（每小题 2 分，共 6 分）









2. 在□里填上合适的数。（每小题 4 分，共 12 分）

$$\begin{array}{r} 4\ \square \\ +\ \square\ 6 \\ \hline 6\ 3 \end{array}$$

$$\begin{array}{r} \square\ 3 \\ -\ 3\ \square \\ \hline 2\ 9 \end{array}$$

$$\begin{array}{r} 9\ \square \\ -\ \square\ 3 \\ \hline 4\ 6 \end{array}$$

关注微信公众号“教辅资料站”获取更多学习资料

3. 求比一个数多（少）多少的数的方法

班级_____ 姓名_____ 得分_____ 时间：40分钟 满分：100分

一、仔细审题，填一填。（每空2分，共28分）

1. 比39多47的数是（　　），比90少18的数是（　　）。
2. 68比75少（　　），95比74多（　　）。
3. 在○里填上“＞”“＜”或“＝”。

55－30 ○ 25　　29＋12 ○ 70－40　　17＋26 ○ 39

66＋6 ○ 90－9　　33＋54 ○ 87　　67－7 ○ 57－7

4. 双“十一”期间，网购促销，每盒钢笔优惠9元，买这盒钢笔需要（　　）元。

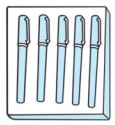

原价68元/盒

5.





原价43元



原价85元



原价62元

现在每个玩具熊（　　）元，每个布娃娃（　　）元，每个玩具汽车（　　）元。

二、看图列式计算。（每小题4分，共8分）

1.

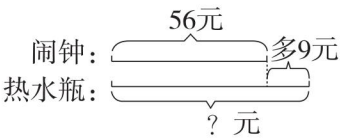

2.

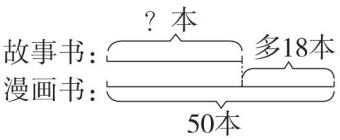

三、聪明的你，答一答。（共64分）

1. 依依家八月份交电费多少元？（10分）





关注微信公众号“教辅资料站”获取更多学习资料

2. 购物。



62 元



比小汽车便宜 25 元。

（1）买一支钢笔多少钱？（7 分）

（2）买一辆小汽车和一支钢笔一共多少钱？（7 分）

3. 丁丁在奥林匹克体育中心看到两位师傅正在安装垃圾箱，张师傅需要安装 26 个，李师傅需要安装的比张师傅多 13 个，李师傅需要安装多少个垃圾箱？他们一共需要安装多少个垃圾箱？（16 分）

4. 在学校小达人比赛中，四名同学的钢琴得分情况如下：

思思	典典	乐乐	涛涛
比典典少 5 分	86 分	比典典多 3 分	再多 3 分就和典典一样多

（1）思思得了多少分？（8 分）

（2）乐乐得了多少分？（8 分）

（3）你还能提出其他数学问题并解答吗？（8 分）

关注微信公众号“数辅资料站”获取更多学习资料

4. 连加、连减、加减混合运算的计算方法

班级_____ 姓名_____ 得分_____ 时间：40分钟 满分：100分

一、仔细审题，填一填。(每空1分，共25分)

1. 按规律填数。

(1) 19　23　27　(　　)　(　　)　39　(　　)

(2) 73　64　55　(　　)　37　(　　)　(　　)

2. 运动会得分情况如下表：

	径赛	田赛	球类	总分
二(1)班	12分	16分	7分	
二(2)班	21分		13分	52分
二(3)班		19分	16分	45分

3. 算式接龙。

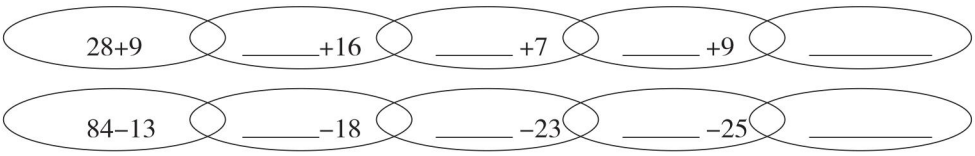

4. 从左往右算。

(1)  18 +32 □ −26 □ +45 □ −36 □ 

(2)  45 +28 □ −26 □ +17 □ −34 □ 

二、火眼金睛，判对错。(对的在括号里画“√”，错的画“×”，并改正过来)(每小题4分，共8分)

1. 80 − 46 − 18 = 36

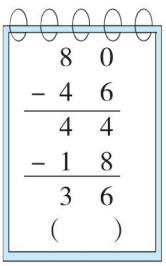

改正：

2. 82 − (28 + 35) = 89

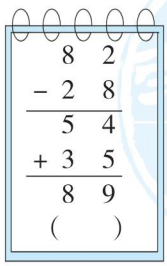

改正：

关注微信公众号“教辅资料站”获取更多学习资料

三、细心的你，算一算。（共 30 分）

1. 直接写结果。（每小题 1 分，共 6 分）

45 + 40 + 7 =　　68 − 4 + 9 =　　82 − 20 − 6 =

98 − (60 + 8) =　　45 − 5 + 36 =　　88 − 18 − 9 =

2. 比一比，算一算。（每空 1 分，共 12 分）

（1）

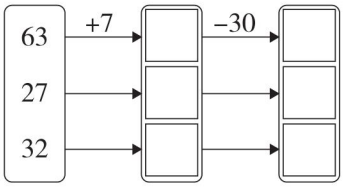

（2）

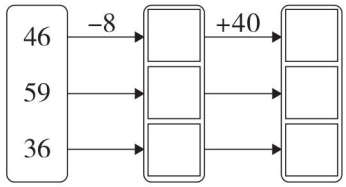

3. 列竖式计算。（每小题 3 分，共 12 分）

37 + 46 − 54 =　　81 − 32 − 27 =

40 + 19 + 12 =　　52 + (44 − 14) =

四、把每条线上的三个数相加。（每空 2 分，共 14 分）

1.

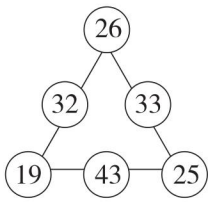

____　____　____

2.

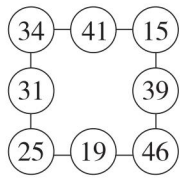

____　____　____

五、聪明的你，答一答。（共 23 分）

1. 熊大带了 100 元，买了下面的两件物品，还剩多少钱？（10 分）



38 元



29 元

2. 一共要折 60 只，还要折几只就完成任务？（用两种方法）（13 分）



关注微信公众号“教辅资料站”获取更多学习资料

1. 测量物体长度的技巧

班级_____ 姓名_____ 得分_____ 时间：40分钟 满分：100分

一、仔细审题，填一填。(每空2分，共24分)

1. 毛笔长（　　）厘米，牙刷长（　　）厘米。

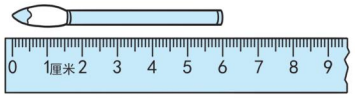

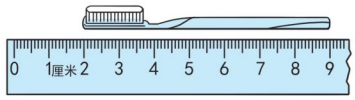

2. 如右图，彩色笔的长度是（　　）厘米，回形针的长度是（　　）厘米，彩色笔比回形针长（　　）厘米。

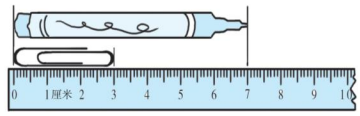

3. 在○里填上“>”“<”或“=”。

100厘米○1米　　4米○40厘米　　99厘米○1米20厘米

4. 在（　　）里填上合适的长度单位。

黄瓜长23(　　)　教室长6(　　)　跑道长100(　　)　手指宽约1(　　)

二、火眼金睛，判对错。(对的在括号里画“√”，错的画“×”)(每小题3分，共15分)

1. 线段是直的，可以量出长度。(　　)
2. 电梯限高30厘米。(　　)
3. 两点之间可以画无数条线段。(　　)
4. 琪琪跳远得第1名，成绩是2厘米。(　　)
5. 100厘米长的细线比1米长的粗绳长。(　　)

三、按要求做题。(共36分)

1. 下面物体的高各是多少？连一连。(4分)






80厘米　　160厘米　　20米　　23厘米

2. 按照从长到短的顺序把下面的长度重新排列。(每小题4分，共8分)

(1) 60厘米　9米　100厘米　20厘米

_____

(2) 4米　3厘米　4米50厘米　60厘米　70厘米

_____

关注微信公众号“教辅资料站”获取更多学习资料

3. 量一量。小兔从第①条路回家要走（　　）厘米。请你再提一个数学问题并解答。（6 分）

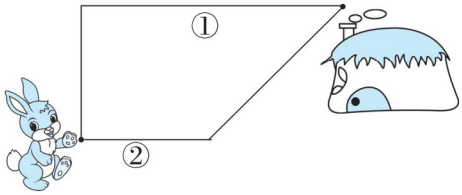

4. 画一画。

（1）用下面这把不完整的尺子在纸条上涂一段比 3 厘米长 1 厘米的色带。（8 分）

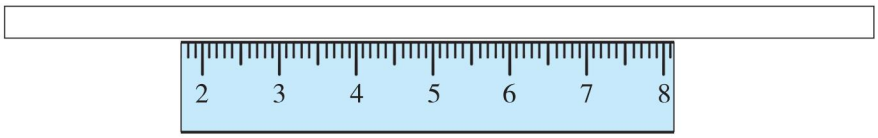

（2）在树的左边 2 厘米处画  ，在树的右边 3 厘米处画  。（10 分）



四、聪明的你，答一答。（共 25 分）

1. 小猫离地面大约多少厘米？（10 分）



2. 玩积木。

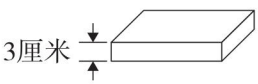

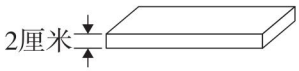

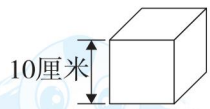

用上面的积木搭成下面的图形，它们各有多高？（每空 5 分，共 15 分）

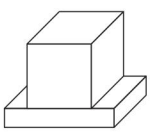

（　　）厘米

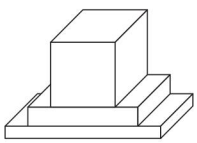

（　　）厘米

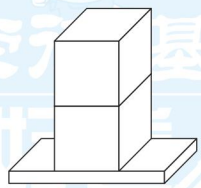

（　　）厘米

关注微信公众号“数辅资料站”获取更多学习资料

2. 用加减法解决问题的技巧

班级_____ 姓名_____ 得分_____ 时间：40分钟 满分：100分

一、仔细审题，填一填。(每空5分，共15分)

1. 狮子今年（　　）岁，再过（　　）年狮子就30岁了。



2. 买两本优惠（　　）元。

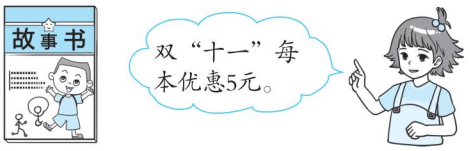

16元

二、看图列式计算。(每小题8分，共24分)

1.

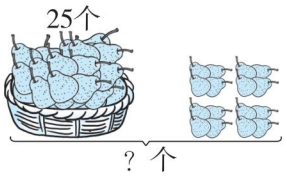

□○□=□（个）

2.

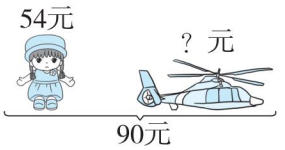

□○□=□（元）

3.



□○□○□=□（元）

三、聪明的你，答一答。(共61分)

1.



18元



26元



8元



32元

(1) 华华买一辆玩具汽车和一个玩具熊，一共多少钱？(6分)

关注微信公众号“教辅资料站”获取更多学习资料

（2）玲玲有 50 元，可以买哪两样物品？（6 分）

（3）8 个小朋友各买一个地球仪，他们一共要花多少钱？（8 分）

2. 冬至是我国二十四节气中一个很重要的节气，在我国大部分地区，冬至有吃饺子的习俗。冬至这天，爸爸包了 39 个饺子，妈妈包了 52 个饺子，他们一共包了多少个饺子？饺子煮熟后，爸爸先吃了 28 个饺子，此时还剩下多少个饺子？（14 分）

3. 元旦大促销，满 50 元减 10 元。

				
28 元	36 元	39 元	18 元	48 元

（1）买一套衣服需要多少钱？（6 分）

（2）买最便宜的两样物品能减 10 元钱吗？（6 分）

（3）你还能提出其他数学问题并解答吗？（8 分）

4. 集满 60 个赞就可以获得冰雕门票一张。芳芳集了多少个赞？她还需要再集多少个赞才能获得一张门票？（7 分）

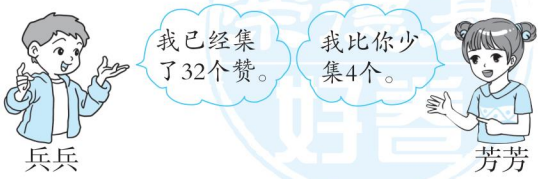

关注微信公众号“数辅资料站”获取更多学习资料

3. 表内乘法的灵活计算

班级_____ 姓名_____ 得分_____ 时间：40分钟 满分：100分

一、仔细审题，填一填。(每空1分，共26分)

1. (　　)个9相加的和是63，2个8相乘的积是(　　)。

2. 一个乘数是7，另一个乘数是6，积是(　　)。

3. 在(　　)里填上合适的数。

(1) 7　14　21　(　　)　(　　)　(　　)

(2) 82　73　64　(　　)　(　　)

4. 在◯里填上“>”“<”或“=”。

8×7 ◯ 65　　8×8 ◯ 9×7　　$9+8$ ◯ 9×8

6×4 ◯ 3×8　　6×9 ◯ 46　　5×6 ◯ 4×8

5. (　　)里最大能填几?

(　　)$\times5<28$　　$50>6\times$(　　)　　$7\times$(　　)<51

(　　)$\times9<40$　　$34>4\times$(　　)　　$8\times$(　　)<43

6. 在◯里填上“+”“−”或“×”。

8 ◯ $8=64$　　8 ◯ $8=16$　　40 ◯ $8=4\times8$

27 ◯ $9=36$　　5 ◯ $7=35$　　54 ◯ $2=7\times8$

二、它们各住几号房子？连一连。(12分)


四九


3×9


2×8


27


16


35


36


5×7


六六


四四

关注微信公众号“教辅资料站”获取更多学习资料

三、细心的你，算一算。（每小题 1 分，共 9 分）

$7\times7=$	$9\times4+5=$	$4\times7+6=$
$6\times9=$	$3\times8-12=$	$8\times9-40=$
$8\times5=$	$6\times8-7=$	$7\times6-4=$

四、巧用口诀填一填。（共 29 分）

1. 在下面的三个图中各填上相同的数，使它们相加的和等于图中的数。（12 分）

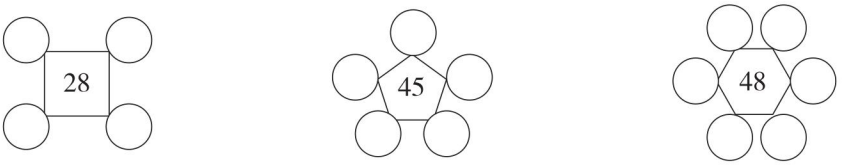

2. 照样子，填一填。（8 分）



3. 根据下面的得数想口诀写算式。（每小题 3 分，共 9 分）



五、把下面的算式改写成乘法算式。（每小题 2 分，共 12 分）

$6\times8-8=(\quad)\times(\quad)$	$5\times7+7=(\quad)\times(\quad)$
$5\times6-6=(\quad)\times(\quad)$	$4\times9+9=(\quad)\times(\quad)$
$3\times8-8=(\quad)\times(\quad)$	$2\times5+5=(\quad)\times(\quad)$

六、在○里填上合适的数。（每小题 2 分，共 12 分）

○$\times5=35$	$8\times$○$=56$	$6\times$○$=54$
○$\times7=28$	$9\times$○$=63$	$3\times$○$=24$

关注微信公众号“教辅资料站”获取更多学习资料

期末必备考点大盘点



1. 长度单位

- 认识厘米和米
  - 量比较短的物体，可以用“厘米”作单位。厘米可以用“cm”表示。
  - 量比较长的物体，通常用“米”作单位。米可以用“m”表示。
  - 1米=100厘米
- 测量方法
  - （1）把物体放正；（2）把尺的刻度0对准物体的左端；（3）读出物体的右端所对的刻度数。
  - 量得铅笔长6厘米
- 认识线段
  - （1）线段是直的，有两个端点。（2）可以量出长度。
  - 特征
  - 画线段的方法：从尺子的刻度0开始画起，量几厘米长的线段就画到几厘米的地方。
  - 画线段
- 选择合适的长度单位
  - 借助参照物，长的或高的用“米”作单位；短的或矮的用“厘米”作单位。
  - 客车长4米
  - 扫帚高80厘米

3. 角的初步认识

- 认识角
  - 角有一个顶点和两条边。
  - 角的大小与角的两边张开的程度有关，与所画边的长短无关。
  - 画角：从一个点起，用尺子向不同的方向画两条笔直的线，就画成一个角。
  - 像□这样的角就是直角。
  - 用三角尺上的直角判断一个角是不是直角。
  - 用三角尺画直角：定顶点→画两边→标出直角符号。
- 认识锐角和钝角
  - 锐角：比直角小
  - 钝角：比直角大
  - 直角、钝角、锐角之间的大小关系：锐角＜直角＜钝角。
- 用一副三角尺拼角
  - （1）直角和锐角拼出的角一定是钝角。
  - （2）两个锐角拼出的角可能是锐角，也可能是钝角。

6. 表内乘法（二）

- 7至9的乘法口诀
  - 运用乘法解决购物问题
    - 求几个几相加是多少，用乘法计算
    - 单价×数量=总价
    - 2×7=14（元）
  - 几的乘法口诀就有几句，每相邻两句口诀的积就相差几。
    - 如：8的乘法口诀有8句，每相邻两句口诀的积相差8。
    - 8×3=24
    - 3×8=24
    - 口诀是：三八二十四
  - 解决“够不够”、“能不能”的问题的方法
    - 先求出要比较的两个量，然后进行对比，得出结论。
    - 如果有25人来此就餐，坐得下吗？
    - 6×4=24＜25（个）
    - 28＞25，坐得下。

4. 表内乘法（一）

- 乘法的初步认识
  - 加法：4+4+4=12
  - 乘法：3×4=12
  - 4×3=12
  - 4 × 3 = 12
  - 乘数 乘号 乘数 积
  - 读作：4乘3等于12
- 加法、乘减
  - 运算顺序：先算乘法，再算加法或减法。
  - 3×3+2=11　3×4−1=11
  - 9　12　11　12
  - 乘加：5×4+3=23
  - 乘减：5×5−2=23
- 2至6的乘法口诀
  - 4个5
    - 求4个5相加的和是多少，用乘法计算，列式是5×4。
  - 5张 7张 4张
    - 求5张和4张合起来是多少，用加法计算，列式是5+4。
- 解决问题
- 注意口诀和算式的区别

7. 认识时间

- 认识分
  - 分针走1小格是1分，走1大格是5分；时针走1大格是1时。
  - 分针走60小格，时针正好走1大格。1时=60分
  - 30分也可以说成半小时
  - 一要找准时间的先后顺序，二要看准时间经过的长短。
  - 男孩的一天
- 认识几时几分
  - 确定钟面上时间的方法
    - （1）分针指着12，时针指着几就是几时。
    - （2）先看时针，时针走过几，就是几时多；再看分针，分针以12为起点，走过多少小格就是多少分。
    - 6时5分
    - 6：05
  - 表示钟面上时间的方法
    - 如果“分”不足10分钟，用电子表格式表示时应在分钟数前面补上一个0。
- 解决时间问题

2. 100以内的加法和减法（二）

- 两位数加两位数
  - 不进位加：37+20=57
    - 37
    - +20
    - 57
    - 个位相加满十，向十位进1
  - 进位加：35+16=51
    - 35
    - +16
    - 51
    - 5+6=11，进1
- 两位数减两位数
  - 不退位减：57−25=32
    - 57
    - −25
    - 32
  - 退位减
    - 被减数个位不为0：51−36=15
      - 51
      - −36
      - 15
    - 被减数个位是0：50−24=26
      - 5 0
      - −2 4
      - 2 6
    - 借走1个
    - 个位不够减，从十位退1
- 求比一个数多几的数是多少，用加法计算
  - 12+3=15（面）
- 求比一个数少几的数是多少，用减法计算
  - 12−4=8（面）
- 连加、连减、加减混合
  - 连加：28+34+22=84
    - 28
    - 34
    - +22
    - 84
    - 10
  - 连减：84−40−26=18
    - 84　44
    - −40　−26
    - 44　18
  - 加减混合运算，有小括号的，先算小括号里的，没有小括号的，按从左到右的顺序计算。
  - 58−(24+19)=15
    - 24　58
    - +19　−43
    - 43　15
- 用加、减法解决连续两步计算的问题时，求出中间量是解题关键

5. 观察物体（一）

- 从不同位置观察同一立体图形，看到的形状可能是相同的，也可能是不同的。
- 从不同位置观察物体
  - 从不同角度观察同一物体，看到的物体的形状一般是不一样的。
  - 从看到的物体的一个面推想原物体
    - 通过从“突出点”的方法进行标记、判断。
    - 注意不同角度几何体与几何体前后、左右、上下的位置关系。
    - （1）抓住物体的特征来判断。
    - （2）根据观察到的一个平面图形推测所观察的立体图形。
    - （3）要考虑周全，可能有一种或多种立体图形。

8. 数学广角——搭配（一）

- 简单的排列
  - 简单摆数的问题，关键做到不重不漏，可以用列举法，先考虑高位，再考虑低位，有顺序地依次排列，一一列举所有可能的数。
  - 从2，5，7三张卡片中任选两张，能摆出6个不同的两位数。

十位	个位
2	5
2	7
5	7
5	2
7	2
7	5

- 简单的组合
  - 组合与排列不同，它与顺序无关，可利用列表法或连线法来解决组合的问题。
  - 连线法：有3本书，想买其中的2本，共有3种买法。
  - 列表法：从3，6，9三个数中，任意选取其中2个求积，得数有3种可能数

乘数	乘数	积
3	6	18
3	9	27
6	9	54

关注微信公众号“教辅资料站”获取更多学习资料

关注荣德基教育微官网，获取海量学习资源。
荣德基教育微官网：http://www.rongdeji.cn
荣德基天猫旗舰店：http://rongdeji.tmall.com
客服热线：182 1039 5892

图书在版编目（CIP）数据

好卷：R版，二年级数学，上 / 荣德基主编. — 长春：吉林教育出版社，2012.5（2021.5 重印）
ISBN 978-7-5383-6272-3

Ⅰ. ①好… Ⅱ. ①荣… Ⅲ. ①小学数学课一习题集 Ⅳ. ①G624

中国版本图书馆 CIP 数据核字（2012）第 097519 号

好卷：二年级数学上（R 版）
HAOJUAN: ER NIANJI SHUXUE SHANG (R BAN)

荣德基 主编　　本册主编 夏 娟 纪 艳

责任编辑 朱 林　　封面设计 典点璟泰
责任审校 唐小霞

出版 吉林教育出版社（长春市同志街 1991 号 邮编 130021）
发行 吉林教育出版社
印刷 郑州市欣鹰印刷有限公司

开本 880 毫米×1 240 毫米 1/8 印张 7.5 字数 122 千字
版次 2012 年 5 月第 1 版
印次 2021 年 5 月第 10 次印刷
定价 34.90 元

如有印装质量问题，请到所购图书销售部门联系调换。

声明 在图书编写过程中，我们参考并引用了部分资料。有部分文字及图片的作者尚未知悉联系，特请谅忆。敬请这些作者及时与我们联系，以便我们及时致酬。

大卷全程培优　微卷助冲满分







定价：34.90元

二年级 数学 上（R版）

关注微信公众号"放辅资料站"获取更多学习资料