教辅资料站
电子教辅 试卷练习
知识总结 命课资源
扫码关注获取更多学习资料

教学考

好卷



大卷同步达标

月考	期中	期末真题	期末仿真
检测卷(4套)	检测卷(2套)	精选卷(6套)	测试卷(2套)

专项卷(12套)	专题卷(3套)	抢分卷(4套)

2

福建专用

好卷 =《大卷》+《小卷》 大卷同步达标 小卷期末领先

不是所有的试卷都叫“好卷”，期末提分才是硬道理！



大卷 同步达标

同步检测卷

第一次月考 达标检测卷（第1、2单元） …… 1
第二次月考 达标检测卷（第3、4单元） …… 3
期中 检测卷（一） …… 5
期中 检测卷（二） …… 7
第三次月考 达标检测卷（第5、6单元） …… 9
第四次月考 达标检测卷（第7、8单元） …… 11

福州市数学 期末质量监测卷 …… 13
厦门市数学 期末质量监测卷 …… 15
龙岩市数学 期末质量监测卷 …… 17
莆田市数学 期末质量监测卷 …… 19
漳州市数学 期末质量监测卷 …… 21
三明市数学 期末质量监测卷 …… 23
期末 测试卷（一） …… 25
期末 测试卷（二） …… 27

小卷 期末培优

期末核心考点专项卷（12套）

1 厘米和米的 专项卷 …… 01
2 100以内加减法的计算 专项卷 …… 03
3 求比一个数多（少）多少的数的 专项卷 …… 05
4 连加、连减、加减混合运算的计算方法 专项卷 …… 07
5 连续两问的加减法特殊问题 专项卷 …… 09
6 角的分类与拼组 专项卷 …… 11
7 观察物体 专项卷 …… 13
8 乘法与加法的联系 专项卷 …… 15
9 2-9的乘法口诀的计算 专项卷 …… 17
10 用乘加、乘减解决问题 专项卷 …… 19
11 2-9乘法口诀解决较复杂的乘法问题 专项卷 …… 21
12 解决生活中的时间问题 专项卷 …… 23

期末综合提升专项卷（3套）

1 计算综合提升 专项卷 …… 25
2 解决问题综合提升 专项卷 …… 27
3 图形与几何、统计与概率综合提升 专项卷 …… 29

期末冲刺抢分卷（4套）

1 高频考点 抢分卷 …… 31
2 易错题 抢分卷 …… 33
3 常见难题 抢分卷 …… 35
4 新题型 抢分卷 …… 37

第1、2单元

时间：60分钟　满分：100分

题号	一	二	三	四	五	总分
得分						

一、仔细推敲，选一选（将正确答案的序号填在括号里）。（每小题2分，共18分）

1. 下面物体中，厚度最接近1厘米的是（　）。
① 口罩　② 《新华字典》
③ 数学书　④ 1元硬币

2. 下面量法或说法错误的是（　）。
①


②


③


④


3. 与63－29的计算结果相等的算式是（　）。
① 80－54　② 72－38　③ 28＋16　④ 8＋24

4. 明明做一道计算题，本应该减16，而他却加了16，这样算出的结果比正确的结果大（　）。
① 16　② 32　③ 20　④ 48

5. 大约是25米的是（　）。
① 爸爸的身高　② 共享单车的长度
③ 树苗的高度　④ 一节动车车厢的长度

6. 1米长的绳子和10厘米长的铁丝相比，（　）。
①绳子长　②铁丝长　③同样长　④无法比较

7. 李老师买了39本笔记本，43本图画本。_____？下面问题中，不能解决的是（　）。
① 一共需要多少钱　② 笔记本比图画本少多少本
③ 一共买了多少本　④ 图画本比笔记本多多少本

8. 下面各题先算减法的是（　）。
①31＋26－27　②93－(17＋46)　③47＋(60－20)

9. 观察右边的竖式，下面说法正确的是（　）。

	7	6
－	6	0
	1	6

A. 三个“6”都表示6个一
B. 76中的“7”表示7个一
C. 笔算减法时，先算个位，再算十位
D. 60中的“6”表示6个十
① A和B　② A和C　③ B和C　④ C和D

二、认真审题，填一填。（每空1分，共23分）

1. 量长度。
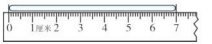

木棍长（　）厘米。
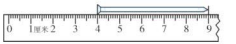

铁钉长（　）厘米。

2. 在括号里填上“厘米”或“米”。

土楼高约12（　）。

蜜蜂身长约2（　）。

马高约2（　）。

3. 估长度。
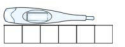
体温计大约有（　）个□长。
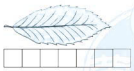
树叶大约有（　）个□长。

4. 在○里填上“＞”“＜”或“＝”。
41－7 ○ 35　　54＋8 ○ 62　　43＋17 ○ 52＋7
25＋8 ○ 32　　40－8 ○ 38　　63－13 ○ 42＋18

5. 在括号里填上合适的数。
1米＝（　）厘米　　（　）厘米＝6米
200厘米＝（　）米　　1米－30厘米＝（　）厘米

6. 先计算14＋6＝20，再计算70－20＝50，写成一个算式是（　　）。

教辅资料站
关注微信公众号“教辅资料站”获取更多学习资料

7. 数一数，下面的图形中各有几条线段？



（　）条



（　）条



（　）条

8. 二（1）班国庆节要剪 90 颗☆，第一次剪了 28 颗，第二次剪了 34 颗。两次一共剪了（　　）颗，还需要剪（　　）颗。

三、细心的你，算一算。（共 26 分）

1. 口算。（每小题 1 分，共 10 分）

59 − 6 =　　27 + 3 =　　20 + 55 =　　5 + 23 =

65 − 60 =　　45 + 13 − 30 =　　64 + 15 − 9 =

72 =（　　）− 8　　（　　）+ 5 = 48　　2 + 18 =（　　）− 6

2. 列竖式计算。（前 2 小题每题 2 分，其余每小题 3 分，共 16 分）

22 + 27 =　　82 − 46 =　　36 + 4□ = □

（先填一填，变成进位加法，再计算）

74 − 26 + 25 =　　98 −（50 − 27）=　　75 +（36 − 18）=

四、动动手，画一画。（共 6 分）

1. 在距离小兔子 2 厘米处画一根萝卜，5 厘米处画一朵小花。（2 分）



2. 先估一估，再用尺子量一量。（4 分）



估（　　）厘米

量（　　）厘米

估（　　）厘米

量（　　）厘米

五、聪明的你，答一答。（共 27 分）

1.



小熊要买门票吗？为什么？请写出理由。（6 分）

2. 周末，龙岩小学开展了爱心义卖活动。乐乐义卖了多少钱？东东和乐乐一共义卖了多少钱？（6 分）



3. 购物满 80 元立减 10 元。



（1）一副乒乓球拍比一个文具盒贵多少钱？（5 分）

（2）买一副乒乓球拍和一个篮球能立减 10 元吗？为什么？（5 分）

（3）根据算式“23 + 8 =”结合上面的信息提出一个数学问题。（5 分）

①数学问题：

②23 + 8 =（　　）（元），可以怎样付钱？

微信公众号 教辅资料站

关注微信公众号“教辅资料站”获取更多学习资料

姓名 学号 班级 学校

第3、4单元

时间：60分钟　满分：100分

题号	一	二	三	四	五	六	总分
得分							

一、仔细推敲，选一选（将正确答案的序号填在括号里）。（每小题2分，共18分）

1. 下面物体表面有角的是（　）。

①　②　③　④

2. 一条红领巾上有（　）个角。

① 4　② 1　③ 2　④ 3

3. 下面形成的四个角中，最大的是（　），最小的是（　）。

①　②　③　④

4. 积是18的算式是（　）。

① 10 + 8　② 20 − 2　③ 3 × 6　④ 3 × 5

5. 把6 + 6 + 6 + 5改写成乘加算式是（　）。

① 4 × 6 + 5　② 3 × 6 + 5　③ 4 × 6 − 1　④ 以上都不对

6. 关于一个角的两条边和角，下面说法正确的是（　）。

① 两条边变长，角也变大　② 两条边变长，角变小

③ 两条边变长，但角的大小不变　④ 以上都不对

7. 如果18 = △ + △ + △，20 = ○ + ○ + ○ + ○，那么○ + △ =（　）。

① 8　② 9　③ 10　④ 11

8. 下面说法中，正确的是（　）。

① 每句乘法口诀都可以写出两道乘法算式

② 一个角的两边越长，这个角就越大

③ 3个5和5个3表示的意义相同

④ 正方形都有4个直角

9. 4个3相加，下面列式正确的是（　）。

A. 4 + 3　B. 4 × 3　C. 4 + 4 + 4　D. 3 + 3 + 3 + 3

① A和B　② A和C　③ B和C　④ B和D

二、认真审题，填一填。（每空1分，共20分）

1. 锐角比直角（　），（　）角比直角大。

2. 6 × 3 =（　），读作（　），所用的口诀是（　）。

3. 用口诀“五六三十”写出两道乘法算式是（　）、（　）。

4. 数一数。

（1）（　）个角　（　）个直角

（2）（　）个直角　（　）个锐角　（　）个钝角

5. 右图的古诗一共有（　）个汉字，列式是（　）。



6. 把下面的口诀补充完整。

四六（　）　（　）四十二　三（　）十五

二三（　）　（　）五二十　五（　）三十

三、细心的你，算一算。（共26分）

1. 口算。（每小题1分，共8分）

5 × 6 =　2 × 3 =　5 × 4 =　4 × 4 + 3 =

3 × 4 =　2 × 4 =　6 × 6 =　5 × 3 − 5 =

2. 在括号里填上合适的数。（每小题1分，共6分）

（　）× 5 = 15　（　）× 4 = 16　6 ×（　）= 18

5 ×（　）= 25　4 ×（　）= 24　（　）× 5 = 20

3. 在○里填上“+”“−”“×”或“>”“<”“=”。（每小题1分，共9分）

4 ○ 3 = 12　6 ○ 4 = 10　20 ○ 5 = 15

6 ○ 5 = 30　5 ○ 3 = 15　6 × 6 ○ 40

3 × 3 ○ 5　2 × 5 ○ 4 × 3　2 × 4 ○ 4 + 4

微信公众号 教辅资料站
关注微信公众号“教辅资料站”获取更多学习资料

4. 用卡片上的数写出三道乘法算式。(3 分)

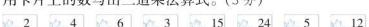

四、动动手，动动脑。(共 10 分)

1. 在点子图上分别画出一个直角、一个锐角和一个钝角。(6 分)



2. 画图表示下面算式的意思。(4 分)

3×6



3+6

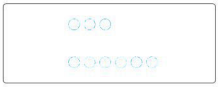

五、看图列式计算。(每小题 2 分，共 4 分)

1.



□ ○ □ = □ (支)

2.



□ ○ □ ○ □ = □ (人)

六、聪明的你，答一答。(共 22 分)

1. 明明说得对吗？为什么？(3 分)



2. 小明从第 1 棵树走到第 5 棵树，一共走了多少米？(先画一画，再解答)(4 分)



3. 亲子家庭福州三日游。(4 分)



4. 厦门鼓浪屿有三种小游船。



(1) 如果租 2 条船，分别是 4 人座和 5 人座的且每条船都坐满，一共有多少人？(3 分)

(2) 如果租 1 条 2 人座和 4 条 4 人座的船，一共可以坐多少人？(4 分)

(3) 一个旅行社国庆节组织“鼓浪屿一日游”，租船时算出人数是 6×5。想一想旅行社是怎样租船的。(4 分)

关注微信公众号“教辅资料站”获取更多学习资料

时间：60分钟　满分：100分

题号	一	二	三	四	五	总分
得分						

一、仔细推敲，选一选（将正确答案的序号填在括号里）。（每小题2分，共16分）

1. □+48<60，□里最大能填（　）。

① 12　② 13　③ 11　④ 10

2. 1个□有4个直角，4个□有（　）个直角。

① 12　② 8　③ 16　④ 20

3. 测量黑板的长度，一般用（　）作单位。

① 厘米　② 米　③ 角　④ 元

4. 一个三角尺上有三个角，这三个角是（　）。

① 一个锐角、一个直角、一个钝角

② 一个钝角、两个直角

③ 一个直角、两个锐角

④ 三个直角

5. 与6×4的结果相等的算式是（　）。

① 6×5−1　② 4+4+4+4　③ 6×3+6　④ 6+6+6+4

6. 玲玲有60元，买笔用去12元，买书用去31元。那么“12+31”表示（　）。

① 玲玲还剩下多少钱

② 玲玲原来有多少钱

③ 玲玲买笔所用的钱比买书少多少钱

④ 玲玲买笔和买书一共用去多少钱

7. 亮亮在计算一道加法算式时，他是这样算的：6+7=13，50+30=80，80+13=93，他计算的这道加法算式是（　）。

① 63+57　② 56+37　③ 65+73　④ 67+35

8. 下面说法正确的是（　）。

A. 每个三角形都至少有2个锐角

B. 用放大镜看课本封面上的直角，这个直角就变大了

C. 3个6相加和6个3相加的意思是一样的

D. 教室长9米

① A和B　② B和C　③ C和D　④ A和D

二、认真审题，填一填。（每空1分，共24分）

1. 填上合适的长度单位。






橡皮宽2（　）。　音乐书宽15（　）。　跳绳长2（　）。

2. 比38多29的数是（　），39比87少（　）。

3. 5个4相加的和是（　）；5与4相加的和是（　）；5与4的差是（　）。

4. 右图中有（　）条线段，（　）个直角。



5. 在○里填上“>”“<”或“=”。

70厘米○1米　84−48○34　3×5○3+5　25+30○54

6. 

铅笔长（　）厘米。



花边长（　）厘米。

7. （　）×6=30　（　）+28=60　（　）−29=45

（　）×3=12　（　）+36=72　92−（　）=45

8. 1只蜻蜓有6条腿，3只蜻蜓有（　）条腿，（　）只蜻蜓有36条腿。

三、细心的你，算一算。（共24分）

1. 直接写出得数。（每小题1分，共12分）

4×6=　3×（　）=15　70−40+5=

42+8=　76−50=　（　）×5=14+6

30+48=　3×6=　4×5−8=

23+9=　51−（　）=46　46+9−5=

微信公众号 教辅资料站
关注微信公众号“教辅资料站”获取更多学习资料

2. 列竖式计算。（每小题 2 分，共 12 分）

58 + 29 =　　71 − 32 =　　64 + 18 − 35 =

38 + 52 =　　90 − 76 =　　72 − (18 + 46) =

四、动动手，画一画。（共 10 分）

1. 用两种方法在方格纸中涂色表示算式 4 × 6。（4 分）



2. 画一个比锐角大的角。（2 分）

3. 在下图中增加一条线段，使它增加 3 个直角。（4 分）



五、聪明的你，答一答。（共 26 分）

1. 男生有 18 人，女生有 29 人。如果每人分 1 个苹果，有多少人没有分到苹果？（5 分）



2. 37 + □ 4 的和是六十几，你觉得□里的数是几？为什么？（3 分）

3. 冬瓜有 20 个，南瓜比冬瓜多 2 个，_____？（请你提一个数学问题，并解答）（5 分）

4.



（1）买一套衣服需要多少元？（5 分）

（2）东东买了一种物品，正好用了 15 元，他可能买了哪种物品？买了多少？（5 分）

5. 观察下图，想想○可以表示什么，能解决什么数学问题？请写出两个信息和一个问题，并列式解答。（3 分）



微信公众号
教辅资料站
关注微信公众号“教辅资料站”获取更多学习资料

时间：60分钟　满分：100分

题号	一	二	三	四	五	总分
得分						

一、仔细推敲，选一选（将正确答案的序号填在括号里）。（每小题2分，共18分）

1. 下面拼成的四个角中，最大的是（　）。



2. 下面算式和60－（27－4）的结果相同的是（　）。

① 60＋27－4　　② 60－27＋4

③ 60＋（27＋4）　　④ 60－（27＋4）

3. 得数最接近50的算式是（　）。

① 15＋14　　② 38＋7　　③ 5×5　　④ 61－8

4. 计算下图中一共有多少盒酸奶，列式错误的是（　）。

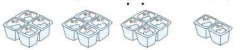

① 4×3＋2　　② 4×4－1　　③ 4×4－2　　④ 4＋4＋4＋2

5. 一拃长大约是（　）。

① 1米　　② 1厘米　　③ 14厘米　　④ 30厘米

6. 下列不能表示3个5相加的是（　）。

① 3＋3＋3＋3＋3　　② 5＋5＋5

③ 3×5　　④ 5×3

7. 下面表述正确的是（　）。

① 小丽一步能走56米

② 1个三角尺中可以有2个直角

③ 3个4和4个3表示的意义相同

④ 锐角一定比钝角小

8. 明明在笔算一道算式时，先算4个一加3个一，再算5个十加2个十，这道算式是（　）。

① 35＋42　　② 25＋34　　③ 45＋32　　④ 54＋23

9. 3□＋4□的得数可能是（　）。

A. 六十几　　B. 七十几　　C. 八十几　　D. 九十几

① A或B　　② B或C　　③ A或C　　④ C或D

二、认真审题，填一填。（第3小题3分，其余每空1分，共29分）

1. 

上面一共有（　）只刺猬，每只刺猬运了（　）个苹果，一共运了（　）个苹果，表示（　）个（　）相加是（　）。乘法算式是（　），读作（　）。

2. 根据“四五二十”写出两道乘法算式是（　）和（　）。

3. 把乘法口诀补充完整。

二五（　）　　三（　）十二　　（　）六三十

二四（　）　　五五（　）　　（　）六十二

4. 80厘米－36厘米＝（　）厘米　　1米－31厘米＝（　）厘米

5. 二（1）班同学做了82朵小红花，送给二（2）班22朵，又送给二（3）班38朵，一共送出（　）朵，还剩（　）朵。

6. 右图中，有（　）条线段，（　）个角，（　）个锐角，（　）个钝角。



7. 5×4＋5＝（　）×（　）　2＋4＋2＋2＝（　）×（　）

8. 找规律填数。

（1）3，6，9，（　），（　），18。

（2）100，92，84，76，（　），（　）。

三、细心的你，算一算。（共24分）

1. 口算。（每小题1分，共12分）

62＋9＝	7×（　）＝21	80－（40＋5）＝
1×6＝	65－50＝	（　）×6＝18＋6
40＋58＝	4×6＝	5×6－8＝
53＋9＝	75－（　）＝46－35	4×（　）＝（　）×2

微信公众号 教辅资料站
关注微信公众号“教辅资料站”获取更多学习资料

2. 列竖式计算。（前3小题每题2分，后2小题每题3分，共12分）

28 + 29 =　　51 − 22 =　　80 − 67 =

74 − 35 + 28 =　　90 − (38 + 42) =

四、动动手，画一画。（共4分）

1. 画一条比5厘米短2厘米的线段。（2分）

2. 画一个直角。（2分）

五、聪明的你，答一答。（共25分）

1. 青青和她的4个小伙伴，_____，她们一共做了多少朵花？（从下面选择一个合适的信息，在括号里画“√”，并列式计算）（6分）

（1）每人做了4朵花（　　）　　（2）每朵花4元（　　）

2. 小朋友，你同意小亮的说法吗？请说明理由。（可以画一画或写一写）（3分）



3. 为预防新型冠状病毒肺炎，政府号召“出门必须戴口罩”。小明家一共买了多少个口罩？（4分）



4.

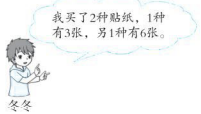

（1）冬冬有多少张贴纸？（3分）



（2）玲玲有多少张贴纸？（3分）

5. （1）毛毛采了多少个蘑菇？（3分）



（2）它们三个一共采了多少个蘑菇？（3分）

微信公众号
教辅资料站
关注微信公众号“教辅资料站”获取更多学习资料

姓名 学号 班级 学校

第5、6单元

时间：60分钟　满分：100分

题号	一	二	三	四	五	总分
得分						

一、仔细推敲，选一选（将正确答案的序号填在括号里）。（每小题2分，共16分）

1. 表示4个7相加的加法算式是（　）。

① 4×7　　② 7+7+7+7

③ 4+4+4+4+4+4+4　　④ 20+4×2

2. 两个乘数都是最大的一位数，积是（　）。

① 18　　② 81　　③ 9　　④ 99

3. 从不同的方向观察，看到的形状不可能是（　）。

①　②　③　④

4. 关于6×3的意义，下面说法正确的是（　）。

A. 3个6相加　　B. 6个3相加

C. 3和6相加　　D. 3个6相乘

① A和B　② B和C　③ C和D　④ A和C

5. 下面数学问题列式为9×3的是（　）。

① 每支笔3元，9本书多少钱

② 每支笔3元，9元可以买多少支笔

③ 每人搬9张椅子，3人一共搬多少张椅子

④ 明明买了9本书，爸爸买了3本书，一共买了多少本书

6. 从上面看到的图形是（　）。

①　②　③　④

7. 看下图，（　）可以表示3×6。

A. ○○○○○○　○○○○○○　○○○○○○

B. ○○○　○○○○○○

C. ○○○　○○○　○○○　○○○　○○○

D. 

① A和B　② B和C　③ A和D　④ C和D

8. 从不同的方向观察下面的立体图形，看到的形状都一样的是（　）。

①　②　③　④

二、认真审题，填一填。（每空1分，共21分）

1. 6个7的和是（　），计算时用的口诀是（　　）。

2. 比4个8少5的数是（　），比6个9多3的数是（　）。

3. 下面右边的四幅图分别是谁看到的？请把名字写在相应的括号里。




（　）（　）（　）（　）

4. 甲数是8，乙数是5，它们的积是（　），和是（　），差是（　）。

5. 9罐

饮料就是（　）个（　）元，是（　）元。

6. 下面右边的三幅图分别是从什么方向看到的？

　（　）　（　）　（　）

7. 下面每组算式卡片的得数都相等，请在括号里填上合适的数。

5×8	（　）×9	
（　）×8+8	7×9−9	
（　）×8−8	（　）×9+9	

关注微信公众号“教辅资料站”获取更多学习资料

三、细心的你，算一算。（共 26 分）

1. 直接写出得数。（每小题 1 分，共 8 分）

$2\times7=$　　$9\times4=$　　$7\times6-4=$　　$4\times7+5=$

$6\times9=$　　$3\times8=$　　$8\times5=$　　$8\times9-30=$

2. 在○里填上“＞”或“＜”。（每小题 1 分，共 6 分）

4×7 ○ 32　　5×9 ○ 40　　3×8 ○ 20

6×8 ○ 50　　9×7 ○ 60　　5×7 ○ 36

3. 在括号里填上合适的数。（每小题 1 分，共 6 分）

（　）$\times9=18$　　$8\times$（　）$=64$　　$7\times$（　）$=$（　）

$8\times$（　）$=24$　　$4\times$（　）$=8\times$（　）　　（　）$\times6=36$

4. 列式计算。（每小题 3 分，共 6 分）

（1）2 个 7 相乘，积是多少？　　（2）4 个 8 连加的和是多少？

四、下面右边的图分别是谁看到的？连一连。（6 分）

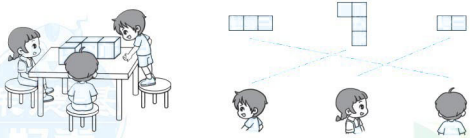

五、聪明的你，答一答。（共 31 分）

1.（3 分）

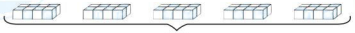

？个

□ ○ □ = □（个）

2. 用你自己喜欢的方法，说一说为什么 $8\times10=80$？（4 分）

3. 城南社区表彰大会上，20 位阿姨获得了“尊老爱幼”道德模范称号，给她们每人送 1 枝百合，准备的百合够吗？（5 分）



4. 一本故事书，思思每天看 8 页，_____，一共看了多少页？（从下面选择一个合适的信息，在括号里画“√”，并列式计算）（5 分）

① 看了 6 天（　）　　② 这本故事书共有 48 页（　）

5. 泉州木偶是福建泉州的一种民间工艺品，分为提线木偶和掌中木偶两种。两组师傅做木偶，第一组 6 位师傅每人做了 7 个木偶。

（1）第一组一共做了多少个木偶？（5 分）

（2）第二组比第一组少做 5 个，第二组做了多少个木偶？（5 分）

（3）观察下面装木偶的箱子时，只能看到印着木偶图案的一面，应该是从哪个方向看到的？为什么？（4 分）



微信公众号
教辅资料站
关注微信公众号“教辅资料站”获取更多学习资料

第7、8单元

时间：60分钟　满分：100分

题号	一	二	三	四	总分
得分					

一、仔细推敲，选一选（将正确答案的序号填在括号里）。（每小题2分，共16分）

1. 王叔叔参加厦门国际马拉松赛，他跑完全程的时间大约是（　）。
   ①3分　②3小时　③一刻钟　④30分

2. 二（3）班上午第二节音乐课的时间是9：30～10：10，那么这节音乐课的时长是（　）。
   ①1小时40分　②50分　③40分　④1小时20分

3. 时钟显示的时间是3:30，那么时针与分针组成的角是（　）。
   ①锐角　②直角　③钝角　④以上都不对

4. 小红有3本不同的书，要送给东东2本，有（　）种不同的送法。



   ①6　②3　③5　④4

5. 时针在6和7之间，分针指着4，这时的时间是（　）。
   ①7：20　②6：04　③7：04　④6：20

6. 从丽丽家到学校一共有（　）条路可以走。



   ①2　②4　③6　④9

7. 小明早上7:30从家出发去上学，路上用了15分，他（　）到校。
   ①8：00　②7小时45分　③7：45　④以上都不对

8. 下面说法正确的是（　）。
   A. 3时＝30分
   B. 3时30分时，时针和分针组成的角是直角
   C. 时针走1大格，分针正好走1圈，所以1小时是60分
   D. 在5、6、7这三个数中，选两个数求和有3种情况
   ①A和B　②A和C　③B和C　④C和D

二、认真审题，填一填。（第1小题12分，其余每空1分，共32分）

1. 用两种方法表示下面的时间。



2. 分针从12走到7，走了（　）分；时针从12走到7，走了（　）时。

3. 时针从5开始绕了一圈又走回5，走了（　）时。

4. 1时＝（　）分　半小时＝（　）分　1刻＝（　）分

5. 在括号里填上合适的单位。
   （1）做课间操用了20（　）。
   （2）妈妈每天工作8（　）。
   （3）每天晚间新闻联播7（　）播出，播出时间一共是30（　）。

6.



7. 用4、6、8这三个数字，可以组成（　）个不同的两位数，它们分别是（　　），其中最大的数是（　），最小的数是（　）。

8. 四个人参加乒乓球比赛，每两个人比赛1次，一共要比赛（　）次。

9. 张老师每天晚上6：30开始锻炼半小时，晚上（　　）锻炼结束。

关注微信公众号“教辅资料站”获取更多学习资料

三、细心的你，算一算。（共 24 分）

1. 直接写出得数。（每小题 1 分，共 12 分）

4 × 7 =	34 + 7 =	6 × 4 =	7 × 7 + 5 =
6 × 7 =	65 − 8 =	5 × 9 =	8 × 9 − 40 =
8 × 4 =	9 × 9 =	46 − 9 =	7 × 6 − 14 =

2. 在括号里填上合适的数。（每小题 1 分，共 6 分）

（　　）+ 9 = 68　　48 +（　　）= 64　　90 −（　　）= 33

8 ×（　　）+ 8 = 48　　（　　）+ 4 × 7 = 35　　（　　）×（　　）= 12

3. 括号里最大能填几？（每小题 2 分，共 6 分）

8 ×（　　）< 33　　60 >（　　）× 7　　（　　）− 8 < 46

四、聪明的你，答一答。（共 28 分）

1. 上学时的小明。（8 分）

时间	7:10 ~ 7:30	8:05 ~ 8:20	8:45 ~ 9:40	10:00 ~ 10:30
活动	起床	吃早餐	上课	踢足球

把时间和相应的活动连起来。

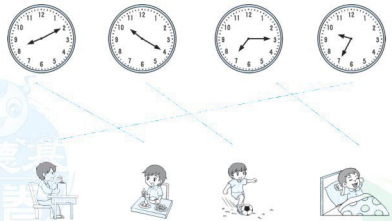

2. 小乐和爸爸、妈妈星期六 9：35 ~ 11：10 预约了拍艺术照。

（1）请画出小乐一家拍艺术照开始和结束的时间。（4 分）



（2）如果三个人排成一排，一共有多少种不同的排法？请用序号分别列出来。（4 分）



（3）如果三个人排成一排，小乐必须站在中间，有多少种不同的排法？请用序号分别列出来。（3 分）

3. 星期天上午，芳芳和爸爸、妈妈一起从家出发去体育馆打羽毛球，打完羽毛球后她还要去练琴。



（1）芳芳可能在下面哪个时间练琴？在括号里画“√”。（2 分）



（　　）　（ √ ）　（　　）

（2）他们一家三口每两人都要打 1 场羽毛球，一共要打几场？（可以画一画或写一写）（3 分）

（3）芳芳一家去外婆家用了 20 分钟，他们是几时几分到外婆家的？写出你是怎样想的。（4 分）

关注微信公众号“教辅资料站”获取更多学习资料

姓名 学号 班级 学校

福州市数学期末质量监测卷

时间：60分钟　满分：100分

题号	一	二	三	四	总分
得分					

一、我会算一算。（共24分）

1. 直接写出得数。（每小题1分，共14分）

3×7=　　4×2=　　9×8=　　46−36=

25−8=　　36+9=　　42+20=　　4+66=

35+6+20=　　5×9+5=　　80−40−8=

52−(7+43)=　　62−50−2=　　82−(90−8)=

2. 用竖式计算。（每小题2分，共10分）

47+38=　　78−49=　　82−48=

83−36+28=　　90−(65−43)=

二、我会填一填。（第1、2、4小题每题4分，第10小题5分，其余每空1分，共46分）

1. 4+4+4+4+4+4+4=□×□

6+6+6+6+6+6+5=□×□−□

2. 根据口诀“七八五十六”写出两道乘法算式是：

（1）＿＿＿＿　　（2）＿＿＿＿

3. 左图中，有（　）个直角，（　）个锐角，（　）个钝角。

4. 请写出两个积是12的乘法算式。

□×□=12　　□×□=12

5. 在○里填上“>”“<”或“=”。

3×8○8×3　　5×5○15　　4厘米+6厘米○1米

6. 在○里填上“+”“−”或“×”。

6○3=9　　40○10=30　　8○8=64　　5○2=3

7. 在括号里填上合适的长度单位。






铅笔长15（　）。门高182（　）。　床长2（　）。　小明身高120（　）。

8. 大约（　）厘米



9.

49	+9	□	−20	□	11	−8	□	+30	□
57		□		□	65		□		□
20		□		□	42		□		□

10. 写出相应的时间，画出缺少的分针。



＿＿时＿＿分　　＿＿时＿＿分

11. 小兰有1元纸币1张，5元纸币1张，10元纸币1张，一共可以组成（　）种不同的币值。

＿＿＿＿＿＿（元）　＿＿＿＿＿＿（元）　＿＿＿＿＿＿（元）

＿＿＿＿＿＿（元）

12. 观察下图，第①个图有2个小星星，第②个图有6个小星星，第③个图有12个小星星，第④个图有20个小星星。照此规律，第⑥个图有（　）个小星星。



微信公众号 教辅资料站
关注微信公众号“教辅资料站”获取更多学习资料

三、我会动手实践。（共 9 分）

1. 连一连。（3 分）



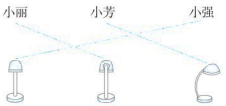

2. 量一量。（3 分）



3. 画图表示下面算式的含义。（3 分）

6×4





四、我会活学活用。（共 21 分）

1. 育才小学有 23 名男教师，48 名女教师，蓝天小学有 53 名教师。育才小学有多少名教师？育才小学比蓝天小学多多少名教师？（4 分）

2.



（1）7 个小朋友玩了一次过山车，他们一共花了多少钱？（3 分）

（2）请你再提出一个用乘法解决的问题。（不要求解答）（2 分）

你的问题是：

3. 购物。



（1）买一双鞋比买一盏台灯少花多少钱？（4 分）

（2）买一个和一个，付出 50 元，应找回多少元？（4 分）

4. 二（1）班准备租车参观科技馆。有 3 名教师和 32 名学生，租 1 辆下面的客车，如果要求每个人都要有座位，座位够吗？（4 分）



座位示意图

关注微信公众号“教辅资料站”获取更多学习资料

厦门市数学期末质量监测卷

时间：60分钟　满分：100分

题号	一	二	三	四	五	总分
得分						

一、用心思考，我会填。（每空1分，共31分）

1. ☺☺☺　☺☺☺　☺☺☺　☺☺☺左图一共有几个☺？可以列成加法算式为（　　），表示（　）个（　）相加是（　），可以列成乘法算式为（　　）。

2. 把乘法口诀填完整。

四（　）二十八　　八（　）七十二

（　）八五十六　　（　）九三十六

3. 

纸条长（　）厘米。



铁钉长（　）厘米。

4. 一只手有（　）根手指，三双手有（　）根手指。

5. 请填上合适的单位名称。

小芳走一步的距离是48（　　）。　　小东的身高是123（　　）。

教室大约长9（　）。　　爸爸每天工作8（　　）。

课间休息10（　　）。　　跑道长400（　）。

6. 在○里填上“＞”“＜”或“＝”。

73－25 ○ 45　　54＋4 ○ 60　　90 ○ 19＋71

34－20 ○ 15　　100分 ○ 1时

7. 小红计划要写100个大字，上午写了48个大字，下午写了31个大字。小红一天共写了（　　）个大字。

8. 三个小朋友进行乒乓球比赛，每两人进行1次比赛，一共要进行（　）次比赛。

9. 买一个足球42元，至少应带（　）张5元人民币。

10. 　　　

＿＿：＿＿　　＿＿：＿＿　　过一刻是＿＿：＿＿　　半小时前是＿＿：＿＿

二、仔细推敲，我会选。（每小题1分，共5分）

1. 小明有50元，买故事书花了28元，他还剩（　）元。

A. 22　　B. 32　　C. 20　　D. 12

2. 拉长这个角的2条边，角的大小发生了什么变化？（　）。

A. 角的大小不变　　B. 角变大了　　C. 角变小了　　D. 无法确定

3. 1米减去1厘米，等于（　）。

A. 0米　　B. 99厘米　　C. 99米　　D. 9厘米

4. 从上面看到的图形是（　）。

A. 　　B. 　　C. 

5. 把一条绳子剪3刀，每段长9米，这条绳子长（　）。

A. 11米　　B. 27米　　C. 36米　　D. 12米

三、仔细审题，我会算。（共29分）

1. 口算。（每小题1分，共10分）

25－4＝　　46－30＝　　49－9＝　　39－39＝　　8×3＋6＝

8×8＝　　66＋34＝　　70－8＝　　9×3－7＝　　37－32－5＝

2. 括号里最大能填几？（每小题1分，共4分）

3×（　）＜21　　（　）×5＜36

5×（　）＜7×7　　（　）×9＜8×8

3. 列竖式计算。（第一行每小题2分，第二行每小题3分，共15分）

73－38＝　　69＋16＝　　80－57＝

36＋46－58＝　　80－32－37＝　　62－34＋57＝

关注微信公众号“教辅资料站”获取更多学习资料

四、绘图操作，我会做。（共 8 分）

1. 画一条比 6 厘米短 2 厘米的线段。（2 分）

2. 画一个比直角大的角，写出各部分名称。（2 分）

3. 画图表示下面乘法算式的含义。（2 分）

6×5

4. 下面的图形有（　）个角，在图形中加 1 条线段，使它增加 3 个直角。（2 分）



五、解决问题，我能行。（共 27 分）

厦门健康步道于 2020 年元旦正式开放。在健康步道上，人们可以一边欣赏山海美景，一边健身运动、休闲漫步。



1. 厦门空中自行车道是世界最长的空中自行车道，全长约 8 公里，厦门健康步道比厦门空中自行车道约长 15 公里，那么厦门健康步道全长约多少公里？（4 分）

2. 工人们铺厦门健康步道上的地砖，横着看每行 7 块，竖着看每列 4 块（如图），一共铺了多少块地砖？（4 分）



3. 在厦门健康步道上举行教师健步行比赛，有一个学校参赛的有 3 个队伍，每个队伍 7 人，下面的大巴车够坐吗？如果够，还可以坐几人？（4 分）



4. 李叔叔是个健步行爱好者，他计划三天在厦门健康步道上走 32 公里，第一天他走了 9 公里，第二天他走了 12 公里，第三天他还要走几公里？（4 分）

5. 玩具商店。



（1）小静买 5 个皮球共花多少钱？（3 分）

（2）东东买 1 辆玩具汽车和 1 个鼓，能优惠（yōu huì）吗？共花了多少钱？（4 分）

（3）你还能提出其他数学问题并解答吗？（4 分）

恭喜你完成了挑战!不要忘了认真检查哦!

微信公众号
教辅资料站
关注微信公众号“教辅资料站”获取更多学习资料

姓名 学号 班级 学校

龙岩市数学期末质量监测卷

时间：60分钟　满分：100分

题号	一	二	三	四	五	总分
得分						

一、看清题目，认真计算。（共20分）

1. 直接写出得数。（10分）

6×8=　　4×9=　　60－6=　　4×6+4=

25+34=　　9×6－15=　　18+16=

6+3×5=　　62－(13+17)=　　85－40－31=

2. 用竖式计算。（前2个小题每小题3分，第3小题4分，共10分）

80－24=　　56+37=　　100－(64+15)=

二、用心思考，正确做题。（第1小题2分，其余每空1分，共32分）

1. ○○○○表示（　）个（　）相加。乘法算式是（　　），计算时所用的口诀是（　　）。

2. 先按要求画△，再写算式。每组画4个，画3组。

画图：　　加法算式：

乘法算式：　　或

3. 5×3和5+3有什么不同？画图表示每个算式。

5×3　　5+3

4. 在○里填上“>”“<”或“=”。

56－8 ○ 66－9　　5米+3厘米 ○ 8米

5×8 ○ 29+11　　4－0 ○ 4－4

5. 比62多25的数是（　）；70比（　）少3。

6. 填上合适的单位名称。

妈妈每天工作8（　）。黑板大约长4（　）。明明身高130（　）。

7. 括号里最大能填几？

（　）×9<50　　25>5×（　）　　（　）+16<35+18

8. □是由（　）条线段围成的，它有（　）个直角，（　）个钝角和（　）个锐角。

9. 用数字0、3、6可以组成（　）个不同的两位数，其中最大的两位数与最小的两位数相差（　）。

10. 7+7+7+7+5=（　）×（　）－（　）

11. 贺知章的《回乡偶书》这首诗一共有多少个字？列式是（　　）。

回乡偶书
少小离家老大回，
乡音无改鬓毛衰。
儿童相见不相识，
笑问客从何处来。

12. 找规律填数。

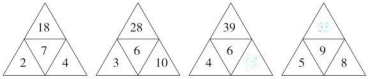

三、认真比较，精心选择（将正确答案的字母填在括号里）。（每小题2分，共16分）

1. 淘气在计算两位数减两位数时，先计算15－6=9，再计算60－20=40，淘气计算的这道题是（　）。

A. 65－26　　B. 75－26　　C. 75－16　　D. 65－16

2. 2时整时针和分针形成（　）。

A. 直角　　B. 锐角　　C. 钝角　　D. 无法确定

3. 如图，纸条长（　）厘米。



A. 3　　B. 4　　C. 6　　D. 7

4. 看到的是（　）。



A　　B　　C　　D

关注微信公众号“教辅资料站”获取更多学习资料

5. 3 个同学进行乒乓球比赛，每 2 个同学打 1 场比赛，一共要打（　）场比赛。

A. 3　　B. 4　　C. 6　　D. 8

6. 下列问题中不能用乘法解决的是（　）。

A. 有两排桌子，一排 8 张，另一排 6 张，一共有多少张桌子

B. 有 9 排桌子，每排 7 张，一共有多少张桌子

C. 买 7 个文具盒，每个文具盒 6 元，一共要多少元

D. 有两排桌子，一排 8 张，另一排也有 8 张，一共有多少张桌子

7. 下面不能列式为 4 ×8 的是（　）。

A. 8 个 4 相加　　B. 8 +8 +8 +8

C. 两个加数分别是 4 和 8　　D. 两个乘数分别是 4 和 8

8. 动物园里有 8 只熊猫，23 只大猴子，15 只小猴子，动物园里一共有多少只猴子？正确的算式是（　）。

A. 23 +8　　B. 8 +23 +15

C. 23 +15　　D. 23 +15 −8

四、读懂要求，实践操作。（共 6 分）

1. 画一条比 3 厘米长 2 厘米的线段。（2 分）

2. 画一个直角。（2 分）

3. 写出相应的时间，画出缺少的时针、分针。（2 分）

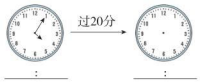

：　　：

五、学以致用，解决问题。（共 26 分）

1. 看图列式计算。（3 分）



□ ○ □ = □（　）

2. 小明和小伙伴们租了两条船，一条坐了 5 人，另一条坐了 8 人，一共有多少人？（3 分）

3. 合唱兴趣小组有 28 名女生，男生比女生少 5 名，合唱兴趣小组一共有多少名学生？（5 分）

4. 买东西。


65元


9元


15元


49元

（1）玩具汽车比玩具直升机贵多少元？（4 分）

（2）买 1 个皮球和 5 个玩具熊，带 100 元够吗？（4 分）

（3）你还能提出一个数学问题并解答吗？（4 分）

5. 想一想，○可以表示什么呢？请你根据下面的图编一个数学故事，提出数学问题并列式解答。（3 分）



关注微信公众号“教辅资料站”获取更多学习资料

莆田市数学期末质量监测卷

时间：60分钟　满分：100分

题号	一	二	三	四	五	总分
得分						

一、我会细心填空。（第1、7小题每小题2分，其余每空1分，共20分）

1. 在括号里填上合适的单位名称。

①一节数学课40（　　）。　　②一根跳绳长2（　　）。

③小学生每天在校时间是6（　　）。　　④一座楼房高12（　　）。

2. 小花的身高是90厘米，小王的身高是1米，小花比小王矮（　　）厘米。

3. 6+6+6+6=（　　），写成乘法算式是（　　），读作：（　　）。

4. 两个乘数都是9，积是（　　）。

5. 用0、5、7这三张数字卡片组成两位数，最大的两位数是（　　），最小的两位数是（　　），它们相差（　　）。

6. 2个8相加是（　　），2个8相乘是（　　）。

7. 

上图可以用（　　）×（　　）+（　　）=（　　）（辆）来表示。

8. 在○里填上“>”“<”或“=”。

26 ○ 17+18　　31−8 ○ 3×7　　100厘米 ○ 98米

9. 括号里最大能填几？

5×（　　）<47　　49>（　　）×6　　4×（　　）<19+3

二、我会慎重选择。（每小题2分，共20分）

1. 5个4相加列成加法算式是（　　）。

①5+5+5+5　　②4+4+4+4+4　　③5×4

2. 芳芳有3件不同的衬衣，2条颜色不一样的裙子，一共有（　　）种穿法。

①5　　②6　　③3

3. 下列图形中，只有2个直角的是（　　）。

①　②　③

4. 下列选项中，线段是（　　）。

①　②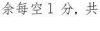　③

5. 下面可以用来测量物体长度的单位是（　　）。

①米　　②角　　③分

6. 从5、7、9里任取2个数求和，得数有（　　）种可能。

①3　　②5　　③6

7. 与9×7+1结果相等的式子是（　　）。

①9×8−8　　②8×7+7　　③9×7+8

8. 课桌面上的直角和三角尺上的直角相比，（　　）。

①课桌面上的直角大　　②三角尺上的直角大　　③一样大

9. 右图中有（　　）条线段。

①1　　②2　　③3

10. 时针在5和6之间，分针指着6，这时的时间是（　　）。

①6：30　　②6：00　　③5：30

三、我能正确计算。（共26分）

1. 小小口算家。（每小题1分，共8分）

5×8=　　9×5=　　90−5×8=　　25+15−10=

17+45=　　6×7=　　30−4×7=　　3×8+29=

2. 用竖式计算。（每小题3分，共18分）

36+24=　　71−58=　　61+19=

关注微信公众号“数蝴蜜蜂站”获取更多学习资料

66 − 25 + 28 =　　24 + 31 + 17 =　　84 − (40 − 12) =

四、我会动脑。(共 9 分)

1. 观察物体。(将正确答案的序号填在括号里) (3 分)



小狗看到的是图 (　　)；小猴看到的是图 (　　)；小鸟看到的是图 (　　)。

2. 用两种方法表示下面的时刻。(6 分)



五、我会解决问题。(共 25 分)

1. 王奶奶养了 26 只白兔，白兔比灰兔少 38 只，王奶奶养的白兔和灰兔一共多少只？(5 分)

2. (1) 6 队小朋友去旅游，每队 8 人，这辆车够坐吗？(3 分)



(2) 已经有 19 个小朋友上车，还有多少个小朋友没有上车？(3 分)

3. 商场里原来有 70 台洗衣机，卖出 41 台，又运来 35 台，现在有多少台洗衣机？(5 分)

4.



(1) 买 3 副玩具乒乓球拍，一共要花多少元？(3 分)

(2) 买 3 副玩具羽毛球拍和买 1 个篮球相比，买哪种贵？贵多少元？(3 分)

(3) 请你提一个不同的数学问题并解答。(3 分)

关注微信公众号“数蝌蚪妈妈”获取更多学习资料

姓名 学号 班级 学校

漳州市数学期末质量监测卷

时间：60分钟　满分：100分

题号	一	二	三	四	五	总分
得分						

一、我会填。（每空1分，共27分）

1. 

文具刀长（ ）厘米。

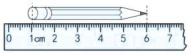

铅笔长（ ）厘米。

2. 有一道乘法算式可以用口诀“三九二十七”计算出结果，这个乘法算式是（ ），读作：（ ）。

3. 比65多17的数是（ ）；比52少28的数是（ ）。

4. 在括号里填上合适的单位名称。

字典厚约3（ ）。小明每天睡8（ ）。大树高约17（ ）。

5. 6+6+6+5=（ ）×（ ）+（ ）

=（ ）×（ ）−（ ）

8+4+4+4=（ ）×（ ）

6. ○+○+○=27　　○+□+□=19

○=（ ）　　□=（ ）

7. 括号里最大能填几？

34>4×（ ）　　5×（ ）<37　　2×（ ）<17

43>（ ）×8　　9×（ ）<29　　3×（ ）<20

8. 

过一刻是（ ）



过5分是（ ）

二、精挑细选，对号入座。（将正确答案的序号填在括号里）（每小题3分，共18分）

1. ——•——左图中有（ ）条线段。

①1　　②2　　③3　　④4

2. 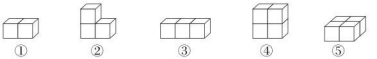

①　②　③　④　⑤

（1）从正面看是□□的有（ ）。

（2）从上面看是□□的有（ ）。

（3）从侧面看是□的有（ ）。

3. 关于角的说法，下面错误的是（ ）

①钝角>直角>锐角　　②角的大小跟两边张开的大小有关

③所有的直角都一样大　　④角的两条边越长角越大

4. 5个6相加，列式是（ ）。

①5+5+5+5+5+5　②5+6　③5×6　④6+6+6+6

5. 数一数，右图一共有（ ）个角。



①2　②3　③4　④5

6. 周日上午，笑笑7：30吃完早餐，打算10：00去芝山公园看菊花展，去看菊花展之前先要去新华书店买书，笑笑去新华书店买书的时间是（ ）。

①

②

③

三、我会算。（共19分）

1. 算一算，填一填。（每空1分，共7分）

32+16=　　95−34=　　7×6−10=

（ ）×4=20　　（ ）+38=90　　（ ）+（ ）=65

2. 笔算。（每小题2分，共12分）

80−35=　　72−18=　　43+18=

关注微信公众号“数蝉资料站”获取更多学习资料

95 − 37 − 15 =　　80 − 46 + 28 =　　83 − (27 + 18) =

四、动手操作。(共 8 分)

1. 在距离 ▼ 左边 2 厘米处画一个☆，在距离☆右边 3 厘米处画一个○。(4 分)



2. 画出一个比直角大的角，并写出角的各部分名称。(4 分)



五、联系实际，解决问题。(共 28 分)

1. 二 (1) 班 38 名同学去春游，租了 4 辆小巴士，能坐下吗？(4 分)



2. 数学丛书有 90 本，发给三 (1) 班 30 本，发给三 (2) 班 32 本，剩下的发给三 (3) 班，每人一本，够吗？(5 分)



3. 小军和他的 4 个好朋友去文具店买本子，每人买 6 本，一共买了多少本？(4 分)

4. 购物。



(1) 王老师买 7 支铅笔，需要多少元？(5 分)

(2) 王老师买 9 个文具盒和 1 本本子，一共需要多少元？(5 分)

(3) 请你提出一个用乘法解决的数学问题，并解答。(5 分)

关注微信公众号“数学资料站”获取更多学习资料

姓名 学号 班级 学校

三明市数学期末质量监测卷

时间：60分钟　满分：100分

题号	一	二	三	四	五	总分
得分						

一、算一算。（共30分）

1. 直接写出得数。（每小题1分，共12分）

5×4=　　8×8=　　39−9=　　58+4−20=

17+9=　　9×7=　　72−32=　　8×9−4=

2×3=　　9+6=　　52+34=　　4×7+20=

2. 列竖式计算。（每小题3分，共18分）

15+27=　　53−16=　　65−36+21=

74−48=　　37+43=　　29+(90−27)=

二、填一填。（每空1分，共24分）

1. 把口诀补充完整。

二九(　　)　　七(　　)四十九

六(　　)四十八　　(　　)(　　)三十六

2. 3+3+3+3+3改写成乘法算式是(　　)，读作：(　　)。

3. 在括号里填上合适的单位名称。

游泳池长50(　　)。　爸爸身高172(　　)。　吃晚饭用30(　　)。

4. 一个乘数是6，另一个乘数是3，它们的积是(　　)，计算时所用的口诀是(　　)。

5. 括号里最大能填几？

3×(　　)<22　　(　　)×9<60　　43>8×(　　)

6. 在○里填上“>”“<”或“=”。

1米○80厘米　　1时○100分　　36+9○40　　64−8○8×7

7. 钟面上，时针走一大格走了(　　)时；分针从12走到3，走了(　　)分。

8. 用3、0、8这三张数字卡片能组成(　　)个不同的两位数，最大的两位数是(　　)。

9. 妈妈今年34岁，乐乐今年8岁，10年后妈妈比乐乐大(　　)岁。

三、选一选。（每小题1分，共6分）

1. 测量学校跑道的长度用(　　)作单位比较合适。

A. 米　　B. 厘米　　C. 元

2. 下面(　　)不是线段。

A.　　B.　　C.

3. 用一个直角和一个锐角可以拼成一个(　　)。

A. 锐角　　B. 直角　　C. 钝角

4. 红红一家9：00从家里出发，大约15分钟后到达冰雪乐园门口，12：00吃午饭。红红可能在(　　)时间滑雪。

A.　　B.　　C.





5. 下列问题中不能用算式“5×4”解决的是(　　)。


果汁5元/杯


豆浆3元/碗


面包4元/块

A. 4杯果汁多少钱　B. 4碗豆浆多少钱　C. 5块面包多少钱

关注微信公众号“数辅资料站”获取更多学习资料

6. 观察下图，小云看到的是图（　　）。



四、画一画。（共 10 分）

1. 量出下面线段的长。（2 分）

（　　）厘米

2. 用给定的顶点和边，画出一个比直角大的角。（3 分）



3. 写出相应的时间，并画出缺少的分针。（5 分）

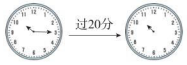

五、解决问题。（共 30 分）

1. （4 分）



（　　）

2. （4 分）

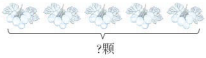

（　　）

3. 停车场原来有 84 辆车，开走了 36 辆，又开来了 22 辆，停车场现在有多少辆车？（4 分）

4.



（1）一条裙子比一件上衣贵 29 元，买一条裙子需要多少元？（4 分）

（2）林阿姨买了 5 双袜子，一共要付多少元？（4 分）

（3）有 9 张 5 元的人民币，够买一件上衣吗？（5 分）

（4）妈妈买了一件上衣和一双鞋子，付给售货员 100 元，应找回多少元？（5 分）

关注微信公众号“数蝌蚪妈妈”获取更多学习资料

校园自主测试卷

时间：60分钟　满分：100分

题号	一	二	三	四	五	总分
得分						

一、仔细推敲，选一选（将正确答案的序号填在括号里）。（每小题2分，共20分）

1. 右图中有（　）个直角。



① 1　② 3　③ 6　④ 4

2. 分针从3走到6，走了（　）。

① 3时　② 30分　③ 15分　④ 3分

3. 右边的圆柱从左面看是（　）。



① 圆形　② 正方形　③ 长方形　④ 球

4. 一条红领巾共有三个角，分别是（　）。

① 一个锐角、一个钝角 、一个直角

② 一个钝角、两个直角

③ 一个直角、两个锐角

④ 一个钝角、两个锐角

5. 文具盒长大约是（　）。

① 1米　② 10厘米　③ 50厘米　④ 22厘米

6. 关于5×4和4×5，下面说法正确的是（　）。

① 计算时所用的乘法口诀相同　② 读法一样

③ 计算结果不同　④ 读法和计算结果都一样

7. 计算8□－4△时，差的十位上可能是（　）。

① 3　② 4　③ 3或4　④ 不能确定

8. 盒子中一共有多少个鸡蛋？下面列式错误的是（　）。



① 4×2+5　② 5×3－2

③ 4×3　④ 4×3+1

9. 9、18、27、□……按规律□里填的是（　）。

① 30　② 54　③ 36　④ 40

10. 二（1）班庆元旦活动，班长去超市买了5包彩带，每包8个，还买了25个气球，50个棒棒糖。可以解决的数学问题是（　）。

A. 棒棒糖比彩带多多少个？　B. 彩带和彩球一共有多少个？

C. 苹果比彩带少多少个？　D. 一共买了多少个彩带？

① A和D　② A和C　③ B和C　④ B和D

二、认真审题，填一填。（第3小题4分，其余每空1分，共24分）

1. 两个乘数都是6，积是（　），列式是（　），读作：（　）。

2. 写出两句得数是18的乘法口诀有（　）和（　）。

3. 5+5+5+5+3=（　）×（　）+（　）

7+7+7－3=（　）×（　）－（　）

4. 1只狗4条腿，8只狗（　）条腿，（　）只狗36条腿。

5. 72比20多（　），比37少12的数是（　），比38多7的数是（　）。

6. 在括号里填上合适的单位名称。

大树高9（　）。　数学书长21（　）。　一个文具盒长18（　）。

7. 括号里最大能填几？

（　）×8<46　　59>（　）×9

35>7×（　）　　36+（　）<48

8. 1米=（　）厘米　（　）时=60分　1米－47厘米=（　）厘米

三、细心的你，算一算。（共27分）

1. 直接写出得数。（每小题1分，共12分）

3×8=　　42－8=　　9×7=　　5×8+23=

40－7=　　6×8=　　6+35=　　9×2－12=

6×9=　　71－40=　　7×4=　　6×7－6=

2. 列竖式计算。（每小题3分，共9分）

49+25=　　91－36=　　58+(42－17)=

关注微信公众号“数蝉资料站”获取更多学习资料

3. 列式计算。（每小题 3 分，共 6 分）



□ × □ + □ = □（个）

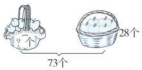

□ ○ □ = □（个）

四、动动手，画一画。（共 6 分）

1. 以下面的点为顶点，画一个锐角，并标出角的各部分名称。（3 分）

2. 画出缺少的分针、时针。（3 分）



五、聪明的你，答一答。（共 23 分）

1. 工人叔叔修一条 98 米长的公路，上午修了 38 米，下午修了 24 米。一共修了多少米？还剩下多少米没修？（5 分）

2. 水果批发店要购进 37 箱苹果，46 箱橘子。有两种车可供选择。



（1）甲车一次可运的水果箱数比乙车少多少箱？（3 分）

（2）如果要一次运走苹果和橘子，选择哪种车比较恰当？（3 分）

3. （1）思思中午 11：30 开始吃午饭，吃完午饭和好朋友乐乐去超市购物，下午 4：00 去点心店吃点心。下面哪个时间思思可能在购物？请在（　　）里画“√”。（6 分）



（2）思思买 4 个皮球需要多少钱？（3 分）



（3）乐乐买 6 个羽毛球和 1 副乒乓球拍，付给售货员 50 元。乐乐付的钱够吗？（3 分）



关注微信公众号“数学资料站”获取更多学习资料

时间：60分钟　满分：100分

题号	一	二	三	四	五	总分
得分						

一、仔细推敲，选一选（将正确答案的序号填在括号里）。（每小题1分，共10分）

1. 如图，橡皮长（　）厘米。

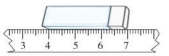

① 3　　② 4　　③ 6　　④ 7

2. 5时整时针和分针形成（　）。

① 直角　　② 锐角　　③ 钝角

3. 数一数，右图一共有（　）条线段。



① 2　　② 3　　③ 4　　④ 5

4. 有3个数5、8、10，任意选取其中2个求和，得数有（　）种可能。

① 1　　② 6　　③ 3　　④ 4

5. 小狗看到的是（　）。



①



②



③



④

6. 淘气在计算两位数减两位数时，先计算13－6＝7，再计算50－20＝30，淘气计算的这道题是（　）。

① 53－26　　② 63－26　　③ 63－16　　④ 53－16

7. 周日上午，玲玲一家7：30吃完早餐，打算10：00去厦门方特梦幻王国游玩。去厦门方特梦幻王国游玩之前先要去超市买些点心，玲玲一家去超市买点心的时间可能是（　）。

①



②



③



④



8. _____，梨树比苹果树多25棵。王叔叔一共种了多少棵树？

横线上可以填写下列哪个信息？（　）。

① 王叔叔养了24只鸭子　　② 王叔叔种了24棵桃树

③ 王叔叔摘了24箱苹果　　④ 王叔叔种了24棵苹果树

9. 下列问题不可以用乘法解决的是（　）。

① 有两排树，一排8棵，另一排6棵，一共有多少棵

② 有3排树，每排7棵，一共有多少棵

③ 买6本书，每本书5元，一共要多少元

④ 有两排树，一排8棵，另一排也有8棵，一共有多少棵

10. 下面说法正确的是（　）。

A. 6×3＋7＝6＋6＋6＋7

B. 根据口诀“六六三十六”可以写出两道乘法算式

C. 所有的直角都一样大

D. 角的两条边画得越长，角越大

① A和B　　② B和C　　③ C和D　　④ A和C

二、认真审题，填一填。（每空1分，共27分）

1. ★★　★★　★★表示（　）个（　）相加。乘法算式是（　　），计算时所用的口诀是（　　）。

2. 先按要求画△，再写算式。每组画3个，画4组。

画图：　　加法算式：

乘法算式：　　或

3. 把乘法口诀填完整。

七（　）四十九　　三（　）二十七　　（　）九六十三

4. 填上合适的单位名称。

凳子高40（　　）　门高2（　　）　一场电影大约2（　　）

5. 在○里填上“＞”“＜”或“＝”。

66－8○76－9　　5米＋1厘米○6米

5×7○24＋11　　5－0○2×5

6. （　　）里最大能填几？

（　　）×7＜40　　25＞6×（　　）　（　　）＋6＜25＋18

7. ○＋○＋○＝15　○＋□＋□＝21　○＝（　　）　□＝（　　）

8. 6×3＝（　　）＋（　　）＋（　　）

9. 买一本37元的书，至少应带（　　）张5元人民币。

关注微信公众号“数学资料站”获取更多学习资料

三、细心的你，算一算。（共 22 分）

1. 算一算，填一填。（12 分）

$6\times9=$　　$4\times8=$　　$50-6=$　　$4\times5+4=$

$35+34=$　　$9\times5-15=$　　（　）$\times5=35$　　$18=($　$)-16$

$6+3\times7=$　　（　）$+36=63$　　$62-(15+17)=$　　$85-40=35+($　$)$

2. 用竖式计算。（第 3 小题 4 分，其余每小题 3 分，共 10 分）

$80-34=$　　$56+27=$　　$100-(54+15)=$

四、动动手，画一画。（共 10 分）

1. 在距离▼左边 2 厘米处画一个☆，在距离▼右边 3 厘米处画一个○。（2 分）

▼

2. 画出一个比锐角大的角，并标出角的各部分名称。（2 分）

3. 写出相应的时间，并画出缺少的时针、分针。（6 分）

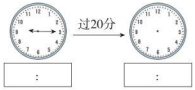

：　　：

五、聪明的你，答一答。（共 31 分）

1. 福州西湖公园步行栈道上工人们铺地砖，横着看每行 6 块，竖着看每列 8 块，一共铺了多少块地砖？（先画图，再解答）（5 分）

2. 妈妈买了 16 袋酸奶，比核桃奶少买了 6 袋，妈妈一共买了多少袋奶？（5 分）

3. 一座大桥的最大载质量是 15 吨，一辆大货车装了 3 台拖拉机，每台拖拉机重 5 吨，这辆大货车能否安全通过大桥？为什么？（5 分）

4. 明明有 40 个车轮，他能组装一列有 9 节车厢的小火车吗？（6 分）



5. 买东西。



（1）足球比钢笔贵多少元？（3 分）

（2）买 1 个足球和 3 本笔记本，带 100 元够吗？（3 分）

（3）根据算式“$6\times8=$（　　）”结合上面的信息提出一个数学问题。（4 分）

关注微信公众号“数蝌蚪妈妈”获取更多学习资料

好卷

小卷
期末领先

- 期末核心考点专项卷（12套）
- 期末综合提升专题卷（5套）
- 期末冲刺抢分卷（4套）

2 数学

关注微信公众号“教辅资料站”获取更多学习资料

目录



期末核心考点专项卷

厘米和米的专项卷 …… 01
100 以内加减法的计算专项卷 …… 03
求比一个数多（少）多少的数的专项卷 …… 05
连加、连减、加减混合运算的计算方法专项卷 …… 07
连续两问的加减法特殊问题专项卷 …… 09
角的分类与拼组专项卷 …… 11
观察物体专项卷 …… 13
乘法与加法的联系专项卷 …… 15
2 ~9 的乘法口诀的计算专项卷 …… 17
用乘加、乘减解决问题专项卷 …… 19
2 ~9 乘法口诀解决较复杂的乘法问题专项卷 …… 21
解决生活中的时间问题专项卷 …… 23

期末综合提升专题卷

计算综合提升专题卷 …… 25
解决问题综合提升专题卷 …… 27
图形与几何、统计与概率综合提升专题卷 …… 29

期末冲刺抢分卷

高频考点抢分卷 …… 31
易错题抢分卷 …… 33
常见难题抢分卷 …… 35
新题型抢分卷 …… 37

关注微信公众号“数辅资料站”获取更多学习资料

1.厘米和米的专项卷

班级_____ 姓名_____ 得分_____

一、仔细推敲，选一选。（每小题 3 分，共 15 分）

1. ——————左图中有（ ③ ）条线段。

① 1　② 2　③ 3　④ 4

2. 下面高度大约是 16 米的是（ ④ ）。

①课桌　②小猫　③爸爸的身高　④鼓浪屿郑成功雕像

3. 小芳用刻度尺画线段，从刻度 2 画到刻度 8，这条线段长（ ② ）厘米。

① 4　② 6　③ 8　④ 10

4. 下面测量方法正确的是（ ② ）。

① 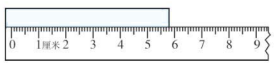

② 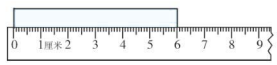

③ 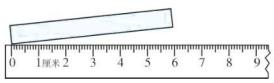

④ 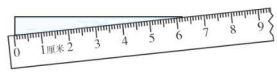

5. 下面厘米尺上表示 5 厘米的长度的是（ ② ）。

①从“1”到“5”　② 从“0”到“4”

③ 从“6”到“1”　④ 从“2”到“6”

二、认真审题，填一填。（第 6 小题 6 分，其余每空 3 分，共 63 分）

1. 测量口罩的宽用（ 厘米 ）作单位，测量教室的长用（ 米 ）作单位。

2. 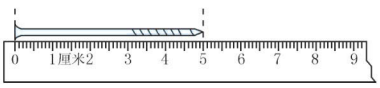

铁钉长（ 5 ）厘米。

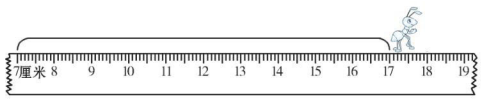

蚂蚁爬了（ 10 ）厘米。

3. 估计右图的蜡笔长约（ 3 ）厘米。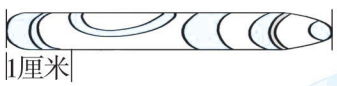

4. 用一把断尺画一条长 5 厘米的线段，应该从刻度 3 画到刻度（ 8 ）。

5. 在括号里填上“厘米”或“米”。









床长 2（ 米 ）。茶叶盒高 15（ 厘米 ）。大象高 3（ 米 ）。小明高 125（ 厘米 ）。

关注微信公众号“教辅资料站”获取更多学习资料

6. 在合适答案后面的□里画“√”。

（1）

比 1 米长□√　比 1 米短□

（2）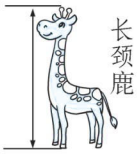

比 1 米高□√　比 1 米矮□

7. 在○里填上“＞”“＜”或“＝”。

34 厘米＜43 厘米　　40 厘米＜4 米　　100 厘米＝1 米

1 米 50 厘米＞99 厘米　　20 厘米＜1 米　　3 米＝300 厘米

8. 下面的图形中各有几条线段？


（1）条


（5）条


（6）条

[点拨] 观察边数确定条数。

三、动手操作，我能行。（共 22 分）

1. 估计门的宽度、游泳池的长度和笔记本的长度时，你会用身体的哪个部位来测量？连一连。（9 分）







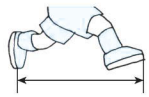

2. 画一条 4 厘米长的线段。（4 分）

画图略。

3. 明明和东东分别住在图书馆的两侧（如下图）。



（1）明明家距离图书馆 20 米，东东家距离图书馆 60 米，用“△”标出东东家。（4 分）

[点拨] 20＋20＝60（米），东东家到图书馆的距离是明明家到图书馆的 3 倍。

（2）周末他们都从家里出发去图书馆，谁走的路多？多多少？（5 分）

60－20＝40（米）　答：东东走的路多，多 40 米。

关注微信公众号“教辅资料站”获取更多学习资料

2.100以内加减法的计算专项卷

班级_____ 姓名_____ 得分_____

一、仔细推敲，选一选。（每小题2分，共6分）

1. 小明在计算两位数加两位数时，个位上算5＋2＝7，十位上算3＋3＝6，这道题是（ ③ ）。

① 25＋33　② 53＋23　③ 35＋32　④ 23＋35

2. 下面能正确表示图意的算式是（ ② ）。

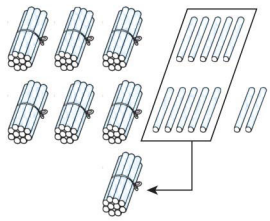

① 5＋7＝12　② 35＋37＝72

③ 37－35＝2　④ 5＋5＝10

3. 用竖式计算“48＋6”时，8和6要对齐，是因为（ ④ ）。

① 8和6比较大　② 比较好算

③ 8和6比较接近　④ 8和6都表示几个一

二、认真审题，填一填。（第4小题6分，其余每空2分，共32分）

1. 笔算加减法时，要把相同的数位（ 对齐 ），从（ 个 ）位算起，计算退位减法时，个位不够减向（ 十 ）位借“1”当“10”。

2. 35比28多（ 7 ），14比65少（ 51 ）。

3. 一个数是43，另一个数是34，这两个数的和是（ 77 ），差是（ 9 ）。

4. 对的画“√”，错的画“×”，并改正。

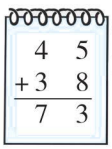

（ × ）改正：

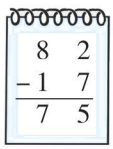

（ × ）改正：

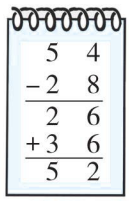

（ × ）改正：

5. 括号里最大能填几？

36＞（ 3 ）＋27　（ 49 ）－8＜42　63＞35＋（ 27 ）

25－（ 8 ）＞16　33＜70－（ 36 ）　45＞30＋（ 14 ）

关注微信公众号“教辅资料站”获取更多学习资料

三、细心的你，算一算。（共 62 分）

1. 直接写出得数。（每小题 1 分，共 12 分）

42 + 8 =	35 − 7 =	26 + 30 =	75 − 40 =
40 + 17 =	9 + 24 =	80 − 6 =	65 − 60 =
91 − 8 =	56 − 30 =	72 + 5 =	40 + 28 =

2. 列竖式计算。（每小题 3 分，共 18 分）

（1）3□ + 26 =　（变成不进位加法）

（2）54 − 1□ =　（变成退位减法）

（3）64 − 7 + 16 =

（1）（2）题答案不唯一

（4）90 − 27 =

（5）46 − 18 =

（6）85 −（12 + 39）=

3. 耐心地计算下面各题。

（1）算式接龙。（每空 2 分，共 8 分）



18 →(+32)→ □ →(−26)→ □ →(+45)→ □ →(−36)→ □



（2）花儿开了。（每空 2 分，共 20 分）

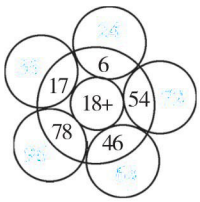

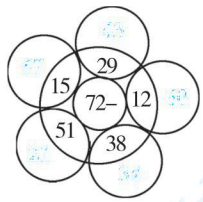

4. 在□里填上合适的数。（每小题 2 分，共 4 分）

$$\begin{array}{r} 4\square \\ +\ \square\ 6 \\ \hline 6\ \ 3 \end{array}$$

$$\begin{array}{r} \square\ 3 \\ -\ 3\ \square \\ \hline 2\ \ 9 \end{array}$$

关注微信公众号“教辅资料站”获取更多学习资料

荣德基 RUDDER

3.求比一个数多（少）多少的数的专项卷

班级_____ 姓名_____ 得分_____

一、仔细推敲，选一选。（每小题3分，共9分）

1. 下面不能列式为“55－37”的是（ ③ ）。

① 55比37多多少　② 比55少37的数是多少

③ 55与37的和是多少　④ 55与37相差多少

2. 男生比女生多3人，也就是说（ ④ ）。

① 女生人数减去3人与男生人数一样多

② 女生比男生多3人

③ 男生人数加上3人与女生人数一样多

④ 女生人数加上3人与男生人数一样多

【点拨】

3. 学校足球队有23人，_____，田径队有多少人？

要求“田径队有多少人”，可以补充的信息是（ A ）。

A. 田径队比足球队多3人　B. 田径队比羽毛球队多3人

C. 乒乓球队比足球队少3人　D. 田径队比足球队少3人

① A和B　② B和C　③ C和D　④ A和D

二、认真审题，填一填。（每空3分，共30分）

1. 比39多47的数是（ 86 ），比90少18的数是（ 72 ）。

2. 68比75少（ 7 ），95比74多（ 21 ），（ 65 ）比40多25。

【点拨】

3. “双十一”期间，网购促销，每盒优惠9元，买这盒钢笔需要（ 59 ）元。



原价:68元

4. 彩色笔比铅笔多5支，那么彩色笔可以分成两部分，一部分是（ 和铅笔同样多的部分 ），另一部分是（ 比铅笔多的5支 ）。

5. 一般情况下，儿童的牙齿比成人的少（ 12 ）颗，成人的牙齿比儿童的多（ 12 ）颗。



儿童牙齿20颗　成人牙齿32颗

关注微信公众号“数辅资料站”获取更多学习资料

三、聪明的你，答一答。（共 61 分）

1. 看图列式计算。（每小题 10 分，共 20 分）

（1）

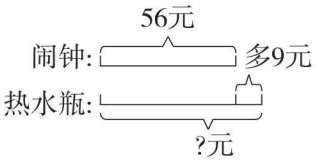

（2）

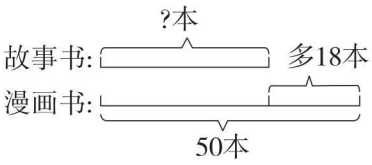

2. 聪聪和明明进行 50 米游泳比赛。这时，明明游了多少米？（10 分）



3. 看图解决问题。



（1）上图表示的意思是什么？请在括号里画“√”。（10 分）

① 白兔采了 14 个蘑菇，灰兔比白兔多采了 3 个，灰兔采了多少个蘑菇？（ √ ）

② 白兔采了 14 个蘑菇，灰兔比白兔少采了 3 个，灰兔采了多少个蘑菇？（ ）

（2）列式解决问题。（10 分）

4. 请你根据下图编出一道含有两个信息和一个问题的数学题。（11 分）



关注微信公众号“教辅资料站”获取更多学习资料

荣德基 RUDEER

4.连加、连减、加减混合运算的计算方法专项卷

班级_____ 姓名_____ 得分_____

一、仔细推敲，选一选。（每小题3分，共9分）

1. 下面各组算式得数相等的是（ ④ ）。

①45 - 26 - 17　　②73 - 23 + 6　　③43 + 40 - 20　　④22 + 23 + 18

45 - (26 - 17)　　73 - (23 + 6)　　43 + (40 + 20)　　22 + (23 + 18)

点拨 括号是加号，括号可以直接去掉括号和括号，得数不变。

2. 右边这道题计算错误的原因是（ ③ ）。

$$\begin{array}{r} 80 \\ -\ 45 \\ \hline 45 \end{array} \quad \begin{array}{r} 45 \\ +\ 26 \\ \hline 71 \end{array}$$

80 - 45 + 26 = 71

① 数位没有对齐

② 没有满十进1

③ 没有退位

④ 没有按正确的运算顺序计算

3. 东东看一本87页的课外书，第一周看了34页，第二周看了29页，还剩多少页没有看？下面算式错误的是（ ② ）。

①87 - (34 + 29)　　②87 - (34 - 29)

③87 - 34 - 29　　④87 - (29 + 34)

二、认真审题，填一填。（每空2分，共30分）

1. 按规律填数。

（1）19，23，27，（ 31 ），（ 35 ），39，（ 43 ）。

（2）73，64，55，（ 46 ），37，（ 28 ），（ 19 ）。

2. 在计算83 - 36 + 27时，应先算（ 减 ）法，再算（ 加 ）法，结果等于（ 74 ）。

3. 在计算83 - （36 + 27）时，应先算（ 加 ）法，再算（ 减 ）法，结果等于（ 20 ）。

4. 39与20的和是（ 59 ），再用80减去这个和是（ 21 ），列成一个算式是（ 80 - (39 + 20) = 21 ）。

点拨 括号不参与80 - 59，意思为先算59是39与20的和。

关注微信公众号“教辅资料站”获取更多学习资料

三、细心的你，算一算。（共61分）

1. 直接写出得数。（每小题2分，共18分）

45 + 40 + 7 = ____　　68 − 4 + 9 = ____　　82 − 20 − 6 = ____

56 − (60 − 4) = ____　　43 + (31 − 9) = ____　　79 − 9 − 5 = ____

98 − (60 + 8) = ____　　45 − 5 + 36 = ____　　88 − 18 − 9 = ____

2. 列竖式计算。（每小题4分，共16分）

36 + 57 − 45 = ____　　82 − 33 − 29 = ____

40 + 19 + 8 = ____　　53 + (46 − 16) = ____

3. 下面的计算对吗？把不对的改正过来。（每小题3分，共6分）

（1）80 − 46 − 18 = 26　　（2）82 − 28 + 35 = 99



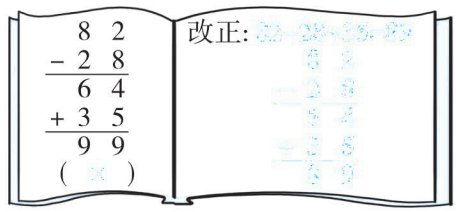

4. 按箭头所指的方向算一算。（每空3分，共12分）

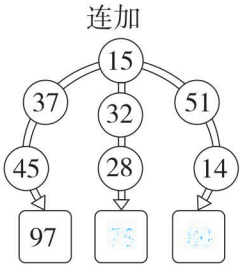

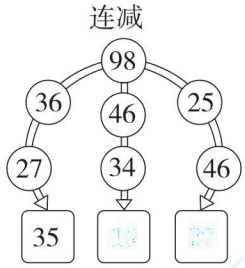

5. （1）三明市阳光花店原有鲜花73枝，卖掉46枝，后来又运来20枝。现在店里有鲜花多少枝？（5分）

（2）超市有90箱苹果，上午卖掉15箱，下午又卖掉15箱，现在还剩多少箱苹果？（4分）

关注微信公众号“教辅资料站”获取更多学习资料

荣德基 RUDDER

5.连续两问的加减法特殊问题专项卷

班级_____ 姓名_____ 得分_____

一、仔细推敲，选一选。（每空 4 分，共 20 分）

1. 根据算式选择合适的问题。



56−29=27(人)(　③　)　　56−15=41(人)(　①　)

29−(56−29)=2(人)(　④　)　　56−15+56=97(人)(　②　)

①绘画社团有多少人？　　②绘画社团和书法社团一共有多少人？

③书法社团男生有多少人？　　④书法社团男生和女生相差多少人？

2. 王老师买了 16 支钢笔，买的铅笔比钢笔多 6 支。_____？下面问题中，可以解决的是（　②　）。

A. 王老师买了多少支铅笔　　B. 王老师买了多少块橡皮

C. 王老师一共买了多少支笔　　D. 王老师买的铅笔比彩笔少多少支

① A 和 B　　② A 和 C　　③ B 和 C　　④ C 和 D

二、认真审题，填一填。（每空 3 分，共 18 分）

1. 花坛里的菊花开了，黄菊花有 28 朵，白菊花比黄菊花多 8 朵。白菊花有（　36　）朵，两种菊花一共有（　64　）朵。

2. 图书角有故事书 56 本，同学又捐来 19 本书，现在一共有（　75　）本书。如果被借走 25 本，图书角还剩（　50　）本书。

3. 某省支援湖北抗击新冠肺炎护理队有 100 人，第一批出发的有 36 人，第二批出发的有 43 人。一共出发了（　79　）人，还需要出发(　21　)人。

关注微信公众号“教辅资料站”获取更多学习资料

三、聪明的你，答一答。（共 62 分）

1. 月月家下午接了多少个订单？月月家今天一共接了多少个订单？（12 分）



2. 两个班一共借走了多少个篮球？二（3）班需要借 25 个篮球，剩下的篮球够吗？（12 分）



3. _____，苹果树比梨树少 25 棵。李叔叔一共种了多少棵树？（14 分）

从下面选择一个合适的信息，在括号里打“√”，再列式计算。

① 李叔叔养了 36 只鸡（　　）②李叔叔种了 36 棵枇杷树（　　）

③ 李叔叔摘了 36 箱梨（　　）④ 李叔叔种了 36 棵梨树（ √ ）

4. 二（1）班有 30 个男生，女生比男生多 3 人，二（1）班一共有多少人？（12 分）

5. 根据给出的信息提出相应的问题，并解答。（12 分）



（1）提问：_____　　算式：_____

（2）提问：_____　　算式：_____

关注微信公众号“教辅资料站”获取更多学习资料

6.角的分类与拼组专项卷

班级_____ 姓名_____ 得分_____

一、仔细推敲，选一选。（每小题 2 分，共 8 分）

1. 下面图形中，（ ④ ）是角。

①  ②  ③ 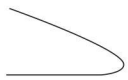 ④ 

2. 一面国旗有（ ③ ）个直角。

① 2　② 3　③ 4　④ 1

3. 下列时刻中，分针和时针所组成的角是直角的是（ ② ），是锐角的是（ ③ ），是钝角的是（ ① ）。

① 4 时　② 9 时　③ 10 时　④ 6 时

4. 下列拼成的角中是锐角的是（ ③ ）。

① 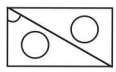 ② 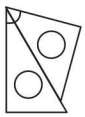 ③ 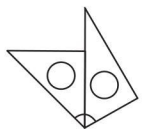 ④ 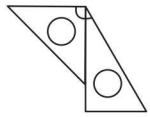

二、认真审题，填一填。（每空 2 分，共 28 分）

1. 一个角有（ 1 ）个顶点，（ 2 ）条边。

标出右面角各部分的名称。

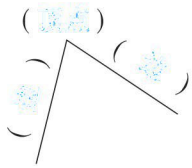

2. 一个三角尺上有（ 1 ）个直角，（ 2 ）个锐角。

3. 要知道一个角是不是直角，可以用三角尺上的（ 直角 ）比一比。

4. 一个直角和一个锐角可以拼成一个（ 钝 ）角。

5. 

顺着箭头指引的方向去观察，发现角逐渐变（ 大 ）了，说明角的大小与（ 角的两边张开的程度 ）的大小有关。

6. 猜一猜，被遮住的分别是什么角？

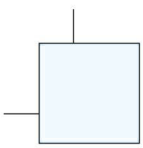
（ 直 ）角

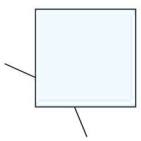
（ 钝 ）角


（ 锐 ）角

关注微信公众号“教辅资料站”获取更多学习资料

三、动手操作，我能行。（共64分）

1. 我会分。（16分）



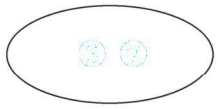
直角

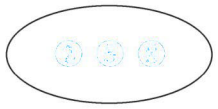
钝角

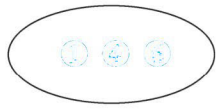
锐角

点拨 可以按角各部顺序对应地找各角的顶点和边的位置，避免漏找和重复计算。

2. 我会数。（共20分）

（1）我会按要求数。（每空2分，共8分）



（ 2 ）个角　（ 3 ）个直角　（ 1 ）个锐角　（ 4 ）个钝角

（2）找出图形中的锐角、直角和钝角的个数。（每空2分，共12分）

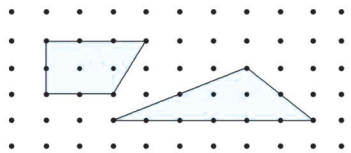

（ 3 ）个锐角
（ 2 ）个直角
（ 2 ）个钝角

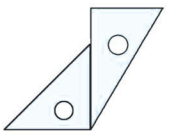

（ 4 ）个锐角
（ 2 ）个直角
（ 2 ）个钝角

3. 我会画。（共28分）

（1）分别画一个锐角和一个直角。（4分）

略。

（2）将一张正方形纸剪去1个角，有几种不同的剪法？把你的剪法用直线画出来。（15分）



剩下（ 3 ）个角
剩下（ 1 ）个直角



剩下（ 4 ）个角
剩下（ 2 ）个直角



剩下（ 5 ）个角
剩下（ 3 ）个直角

（3）各画一条线段。（9分）

①增加2个直角。

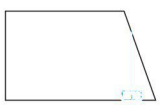

②增加3个直角。

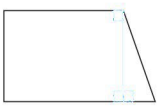

③增加4个直角。



关注微信公众号“教辅资料站”获取更多学习资料

7.观察物体专项卷

班级_____ 姓名_____ 得分_____

一、仔细推敲，选一选。（第2、5小题每题5分，其余每小题4分，共22分）

1. 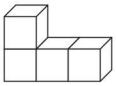从右面看到的是（ ① ）。


①

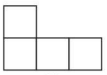
②


③

2. 下面的物体从右面看到的图形是（ ① ）。

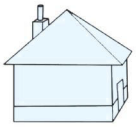


①

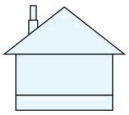
②

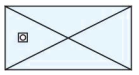
③

3. 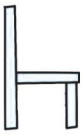是（ ③ ）看到的。



①小刺猬　　②小鸭子

③长颈鹿

4. 看到的立体图形中有一个面是正方形，这个立体图形不可能是（ ④ ）。

①　②　③　④

5. 看到的立体图形中有一个面是圆形，这个立体图形可能是（ ④ ）。

A.　B.　C.　D.

① A 和 B　② B 和 C　③ C 和 D　④ B 和 D

二、认真审题，填一填。（每小题12分，共36分）

1. 右下方的这些照片分别是谁拍到的？填一填。




（小红）


（小丽）


（小美）

关注微信公众号“教辅资料站”获取更多学习资料

2. 他们看到的分别是几？填一填。



小芳：（ 4 ）

小刚：（ 6 ）

小梦：（ 2 ）



3. 他们分别是站在哪看到的？在括号里填出他们的名字。

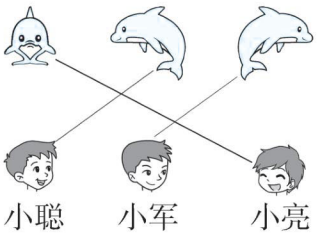

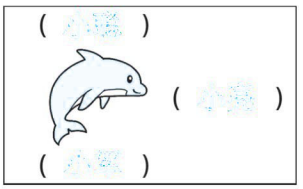

三、我会连。（共 42 分）

1. 右下方的图分别是哪个小朋友看到的？连一连。（12 分）





2. 右下方的图分别是哪个小朋友看到的？连一连。（15 分）



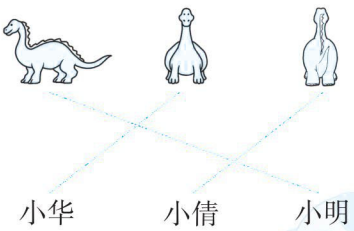

3. 右下方的图形分别是谁看到的？连一连。（15 分）





关注微信公众号“教辅资料站”获取更多学习资料

8.乘法与加法的联系专项卷

班级_____ 姓名_____ 得分_____

一、认真审题，填一填。（第1小题16分，第2小题8分，第3小题9分，第4小题9分，共42分）

1. （1）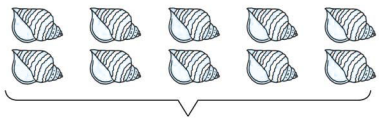

（ 5 ）个（ 2 ）

加法算式：2+2+2+2+2=10

乘法算式：2×5=10 或 5×2=10

读作：2乘5等于10 或 5乘2等于10

（2）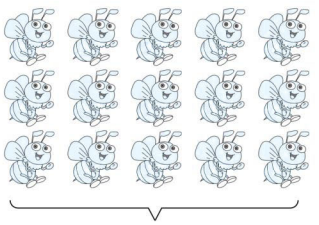

横着看：（ 3 ）个（ 5 ）

竖着看：（ 5 ）个（ 3 ）

加法算式：5+5+5=15 或 3+3+3+3+3=15

乘法算式：3×5=15 或 5×3=15

2. 下面哪些算式能直接改写成乘法算式？写一写。

9+9+9+9+9=5×9或9×5　　8+8+8+8+8=5×8或8×5

7+7+7+7+6=_____　　6+6+6+6+6+2+3=_____

不能直接改写成乘法算式。

点拨 只有几个相同的加数相加，才能改写成乘法算式。

3. 把乘法算式改写成加法算式。

5×2=（ 5 ）+（ 5 ）　　△×3=（ △ ）+（ △ ）+（ △ ）

22×4=（ 22 ）+（ 22 ）+（ 22 ）+（ 22 ）

4. 把下面的算式改写成乘法算式。

6+6+6+3=（ 3 ）×（ 7 ）

7+7+7+3+4=（ 7 ）×（ 4 ）

9+9+9+9+9+10−1=（ 6 ）×（ 9 ）

二、列式计算。（每小题5分，共25分）

1. 2个6相加，和是多少？

2×6=12或6+6=12

2. 2和6相加，和是多少？

2+6=8

关注微信公众号“教辅资料站”获取更多学习资料

3．2 和 6 相乘，积是多少？

2×6=12

4．2 个 6 相乘，积是多少？

6×6=36

5．一个乘数是 2，另一个乘数是 6，积是多少？

2×6=12

三、争做合格的邮递员。（12 分）

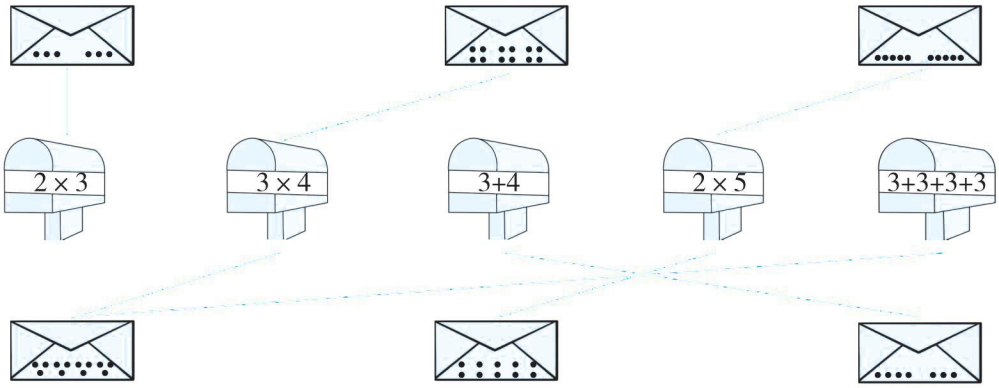

四、画图表示下面算式的含义。（每小题 4 分，共 8 分）

1．4×5

2．2×3

五、聪明的你，答一答。（共 13 分）

超市里的酸奶有两种规格。

1．明明两种酸奶各买了 1 盒，一共有多少杯酸奶？（6 分）

6+3=9（杯）

答：一共有 9 杯酸奶。



2．东东买了 4 盒 6 杯装的，一共有多少杯酸奶？（7 分）

6×4=24（杯）

答：一共有 24 杯酸奶。

关注微信公众号“教辅资料站”获取更多学习资料

荣德基 RUDDER

9.2~9的乘法口诀的计算专项卷

班级_____ 姓名_____ 得分_____

一、仔细推敲，选一选。(每小题2分，共4分)

1. 5个3相加是多少？下面算式不正确的是（ ② ）。

① 5×3　② 5+5+5　③ 3+3+3+3+3　④ 3×5

2. 5×5−5可以改写成的算式是（ ④ ）。

① 5×6　② 5+5+5+5+5　③ 5×3　④ 4×5

二、认真审题，填一填。(每空2分，共32分)

1. 根据下图可列式为（ 3×4=12 ），应用的口诀是（ 三四十二 ）。

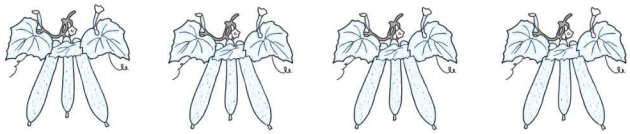

2.

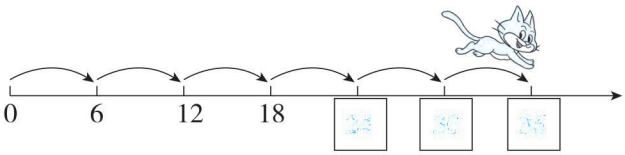

3. 一个乘数是7，另一个乘数是（ 3 ），积是21。

4.（ 8 ）+（ 8 ）+（ 8 ）+（ 8 ）=8×4

5. 下面各图中分别有几个小正方体？



（ 9 ）个　（ 27 ）个　（ 54 ）个

[点拨] 最后一个图有规律，分别可以列式：3×3=9（个），9×3=27（个），27+27=54（个）。

6. 4乘5是（ 20 ），得到的积再加上3，结果是（ 23 ）。

7. 计算“5×3”和“3×5”时用到的同一句口诀是（ 三五十五 ）。

三、仔细的你，算一算。(共64分)

1. 直接写出得数。(每小题1分，共15分)

8+4=12	9×5=45	9−3=6	4×7=28	2×3=6
8×7=56	7×6=42	42−18=24	8×5=40	2×4=8
5×5=25	2×9=18	4×4=16	3×6=18	1×7=7

关注微信公众号“教辅资料站”获取更多学习资料

2. 把口诀补充完整。（每小题 1 分，共 9 分）

（ 五 ）七三十五　　四九（ 三十六 ）　　四（ 五 ）二十

七八（ 五十六 ）　　（ 六八 ）四十八　　六（ 七 ）四十二

（ 二八或四四 ）十六　（ 三 ）六十八　　（ 一八或二九 ）得八

3. 细心算一算。（每小题 1 分，共 9 分）



$6\times7+7=$ 49
$8\times3+8=$ 32
$7\times9+2=$ 65



$6\times9+7=$ 61
$9\times5-25=$ 20
$7\times8-20=$ 36



$8\times9+24=$ 96
$5\times8-27=$ 13
$3\times7+9=$ 30

4. 在括号里填上合适的数。（每小题 1 分，共 9 分）

$4\times(\ 3\ )=12$　　$3\times(\ 7\ )=21$　　$(\ 2\ )\times3=6$

$(\ 4\ )\times2=8$　　$(\ 7\ )\times8=56$　　$16=4\times(\ 4\ )$

$(\ 5\ )\times7=35$　　$(\ 2\ )\times4=8\times(\ 1\ )$　　$10=(\ 2\ )\times5$

（答案不唯一）

5. 在◯里填上“ > ”“ < ”或“ = ”。（每小题 1 分，共 4 分）

4×7 (>) 27　　6×8 (>) 14　　2×5 (<) 3×4　　4×6 (=) $30-6$

6. 在◯里填上“ + ”“ − ”或“ × ”。（每小题 1 分，共 4 分）

5 (×) $7=35$　　$36=6$ (×) 6　　8 (+) $6=40+8$　　9 (+) $9=3$ (×) 6

7. 括号里最大能填几？（每小题 1 分，共 9 分）

$8\times(\ 8\ )<70$　　$6\times(\ 4\ )<29$　　$9\times(\ 5\ )<50$

$(\ 6\ )\times9<55$　　$(\ 9\ )\times7<65$　　$(\ 9\ )\times5<48$

$(\ 3\ )\times4<14$　　$34>5\times(\ 6\ )$　　$7\times(\ 7\ )<50$

8. 看得数写乘法算式，比谁写得多。（共 5 分）

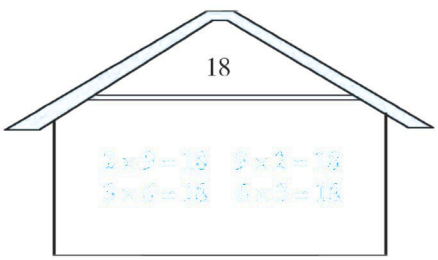

$3\times6=18$　$6\times3=18$
$2\times9=18$　$9\times2=18$

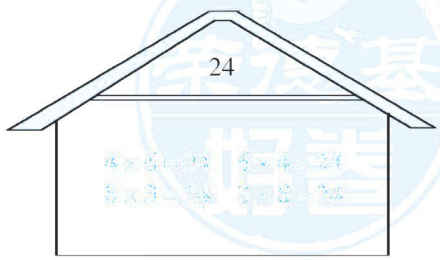

$8\times3=24$　$3\times8=24$
$4\times6=24$　$6\times4=24$

关注微信公众号“数辅资料站”获取更多学习资料

10.用乘加、乘减解决问题专项卷

班级_____ 姓名_____ 得分_____

一、仔细推敲，选一选。（每小题3分，共6分）

1. 图形中的□最多的是（ ③ ）。

① 
② 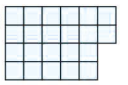
③ 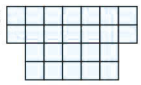
④ 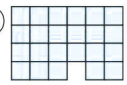

2. 与5×4的计算结果相等的算式是（ ③ ）。

A. 5×3+3　　B. 5×3−3　　C. 6×4−4　　D. 5×3+5

① A和B　　② B和C　　③ C和D　　④ A和D

二、认真审题，填一填。（共39分）

1. 把下面的算式改写成乘法算式。（每空1分，共15分）

8×7−7=（ 7 ）×（ 7 ）=（ 49 ）

9×5−9=（ 9 ）×（ 4 ）=（ 36 ）

4+4×7=（ 4 ）×（ 8 ）=（ 32 ）

6×6+6=（ 6 ）×（ 7 ）=（ 42 ）

3×7+7=（ 7 ）×（ 4 ）=（ 28 ）

2. 括号里填几才能使每组卡片上式子的得数相等？（每空2分，共24分）

3×8 （ 2 ）×8+8 （ 4 ）×8−8	（ 7 ）×8 8×8−8 （ 6 ）×8+8	（ 4 ）×5 5×5−5 （ 3 ）×5+5
6×7 （ 5 ）×7+7 （ 7 ）×7−7	（ 8 ）×9 3×9+9 （ 8 ）×9−9	（ 8 ）×6 7×6+6 （ 7 ）×6−6

三、细心的你，算一算。（每小题2分，共24分）

8×7−30=26	9×4+9=45	3×7−7=14
6×7=42	9×5=45	2×7=14
2×5−5=5	4×4−4=12	8×9+9=81
5×4=20	4×3=12	9×9=81

关注微信公众号“教辅资料站”获取更多学习资料

四、看图列式计算。（每小题 5 分，共 10 分）

1.

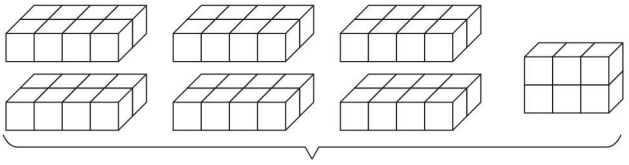

?个

□ ○ □ ○ □ = □（个）

2.

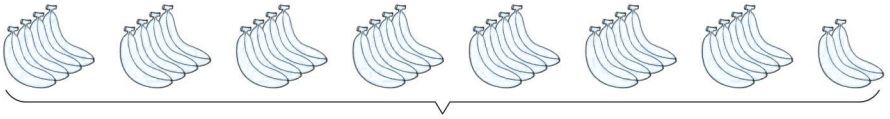

?根

□ ○ □ ○ □ = □（根）

五、聪明的你，答一答。（共 21 分）

1. 希望小学二（4）班有男生 16 人，女生 18 人。全班一起去学校小礼堂听以“感恩”为主题的报告，能坐下吗？（7 分）



座位示意图

2. 王师傅运来 30 个车轮，先组装了 4 辆自行车，剩下的车轮够组装 7 辆三轮车吗？（7 分）



3. 二（1）班同学参加运动会花样入场式比赛，李老师设计了一个队形，丁丁把排好的队形用算式 5 ×6 +4 表示了出来。想一想，可能是怎样的队形？把可能的队形画下来。（用 1 个○表示 1 名同学）（7 分）



关注微信公众号“教辅资料站”获取更多学习资料

11.2~9乘法口诀解决较复杂的乘法问题专项卷

班级_____ 姓名_____ 得分_____

一、仔细推敲，选一选。（每小题5分，共15分）

1. “蛋糕6元，果汁8元，面包4元。”根据这些信息，下列问题中能用“8×4”来解决的是（ ① ）。

   ① 4瓶果汁多少钱　　② 4个面包多少钱

   ③ 4个蛋糕多少钱　　④ 果汁和面包一共多少钱

2. 学校食堂买来3箱西红柿，每箱8个，还买来5个洋葱。根据这些信息，可以解答的数学问题是（ ② ）。

   ① 5个洋葱多少钱　　② 3箱西红柿多少钱

   ③ 3箱西瓜一共有多少个　　④ 3箱西红柿一共有多少个

3. 如下图，玲玲要买5个卷笔刀和1本笔记本，一共要花多少钱？根据题意，要用到的信息是（ ③ ）。



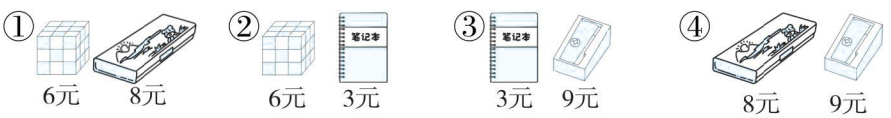

二、认真审题，填一填。（每空3分，共24分）

1. 妈妈每天工作8小时，一周工作5天，妈妈一周工作（ 40 ）小时。



2. 妈妈准备了17粒纽扣，最多能钉（ 4 ）件右面这样的衣服。

[点拨] 因为4×4=16（粒），所以最多能钉4件这样的衣服。

3. 星期天，由小军当家。他去超市买了一种菜，正好花了24元。



他可能买的是（ 3 ）袋（ 西红柿 ）；也可能买的是（ 6 ）袋（ 黄瓜 ）；还可能买的是（ 4 ）袋（ 青椒 ）。

关注微信公众号“教辅资料站”获取更多学习资料

三、聪明的你，答一答。（共61分）

1. 植树节当天，二（3）班种了6排树，其中第1排种了5棵，其余每排种了7棵。二（3）班一共种了多少棵树？（先画图，再列式解答）（10分）



2. 王阿姨准备在网上买一袋核桃，她手中有2张8元的代金券，王阿姨还需要付多少元？（10分）



一袋45元，网购可使用代金券。

3. 元旦假期游乐园里真热闹！

（1）一共需要多少元？（10分）



（2）根据上面的数学信息，算式“5×6”可以解决什么问题？（10分）

4. 所有人正好坐下，没有空位，写出租车方案。（至少写出三种不同的租车方案）（21分）



关注微信公众号“教辅资料站”获取更多学习资料

12.解决生活中的时间问题专项卷

班级_____ 姓名_____ 得分_____

一、仔细推敲，选一选。（每小题 4 分，共 12 分）

1. 明明从家到学校要 15 分钟。他要在 8:00 前到校，最晚应于（　③　）从家出发。

① 8:15　　② 6:45　　③ 7:45　　④ 7:40

2. 乐乐晚上吃饭的时间大约是（　③　）。

① 10:00　　② 3:00　　③ 6:00　　④ 11:00

3. 东东到家时，墙上挂钟显示如图，这时家里没有电，他住在（　②　）。

① 岳阳小区

② 金山小区

③ 海天小区

④ 无法确定



停电通知
岳阳小区 8:00~9:00
金山小区 9:20~10:40
海天小区 10:40~12:00

二、认真审题，填一填。（每空 2 分，共 20 分）

1. 分针走 1 小格是（　1　）分，时针走 1 大格是（　1　）时，时针走 1 大格分针正好走 1 圈，是（　60　）分，因此 1 时 =（　60　）分。

2. 分针从 12 走到 5，走了（　25　）分。分针从 4 走到 8，走了（　20　）分。

[点拨] 可以是 5×5=25（分），8−4=4（格），4×5=20（分）。

3. 时针从 7 走到 10，走了（　3　）时，时针走一圈是（　12　）时。

4. 在括号里填上“时”或“分”。

爸爸每天工作 8（　时　）。　　东东从家到学校走了 20（　分　）。

三、我会看图写时间。（每空 2 分，共 20 分）



9:00



6:30



8:30



11:40



过一刻是 4:15



过半小时是 6:30

关注微信公众号“数辅资料站”获取更多学习资料

四、小动物们读的时间对吗？（不对的请改正）（12 分）

1.





（ × ）改正：7时

2.





（ √ ）改正：

3.





（ × ）改正：3时55分

4.





（ × ）改正：12时半

五、我会连。（12 分）

森林举行长跑比赛，小动物们到达终点的时刻如下，请确定它们的名次。



第一名　　第二名　　第三名　　第四名

六、小青可能在什么时间去放风筝？圈一圈。（12 分）



我8：15开始练习小提琴，然后去放风筝。



小青

我们11：30要去奶奶家。







8：15 11：30

七、宁宁的一上午。（连一连）（12 分）

时间	8：30～9：30	10：00～10：40	10：50～11：15	11：20～11：55
活动	做作业	画画	做手工	看电视

















关注微信公众号“教辅资料站”获取更多学习资料

1.计算综合提升专题卷

班级_____ 姓名_____ 得分_____

一、仔细推敲，选一选。（每小题5分，共20分）

1. “五六三十”这句口诀可以表示（ ② ）。

① 5个6相加　② 5个6相乘　③ 5和6相加　④ 6个5相乘

2. 两个7相乘，积是（ ③ ）。

① 14　② 49　③ 77　④ 1

3. 下面的结果最接近80的是（ ④ ）。

① 37 + 48　② 91 − 17　③ 95 − 16　④ 54 + 19

4. 小思笔算35 + 24时，第二步计算的是（ ② ）。

① 5个一加2个一　② 3个十加2个十

③ 3个十加4个十　④ 5个一加4个一

二、认真审题，填一填。（第7小题2分，其余每空1分，共29分）

1. 把口诀填完整。

三五（ 十五 ）　（ 四 ）七二十八　六（ 七 ）四十二

二（ 九 ）十八　（ 七 ）八五十六　八（ 九 ）七十二

2. 猜猜我是谁？



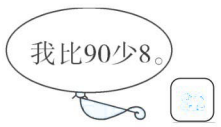



3. □里应该填几？

36 + 22 = □8　52 + 18 = □0　84 − 34 = □0　81 − 25 = □6

4. 5加6的和是（ 11 ）；5个6的和是（ 30 ）。

5. 1个6元，买5个这样的，需要（ 30 ）元。

6. 在○里填上“ > ”“ < ”或“ = ”。

6 × 6 ○ 6 + 6　　38 + 23 ○ 90 − 30

43 ○ 89 − 30 − 22　　4 × 3 ○ 2 × 6

关注微信公众号“教辅资料站”获取更多学习资料

7. 将下面算式按得数的大小从小到大排列。

7×8　　$23+17$　　$72-54$　　$72-39$　　7×9

$72-54<72-39<23+17<7\times8<7\times9$

8. 在括号里填上不同的数：$2\times(\ 6\ )=(\ 3\ )\times(\ 4\ )$　（答案不唯一）

9. 在括号里填上相同的数：（ 2 ）+（ 2 ）=（ 2 ）×（ 2 ）

三、细心的你，算一算。（共51分）

1. 直接写出得数。（每小题1分，共12分）

$36+4=40$　　$5\times9=45$　　$60-12=48$　　$69-(35+8)=26$

$100-55=45$　　$1\times5=5$　　$8\times5=40$　　$9\times4=36$

$3\times5-15=0$　　$4\times4+2=18$　　$7\times9-60=3$　　$8\times7+9=65$

2. 列竖式计算。（每小题3分，共18分）

$47-39=8$　　$91-27=64$　　$46+25-31=40$

$83-55=28$　　$66+(40-12)=94$　　$75-17+23=81$

3. 在括号里填上合适的数。（每空1分，共6分）

（ 59 ）$-17=42$　　$8\times(\ 8\ )=64$　　$7\times6=49-(\ 7\ )$

$56+(\ 16\ )=8\times9$　　$36=(\ 4\ )\times9$　　（ 2 ）$\times5=(\ 10\ )$

（第2个空答案不唯一）

4. 看图列式计算。（每小题3分，共6分）

（1）

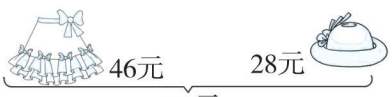

46 + 28 =（ 74 ）

（2）



3 × 4 =（ 12 ）

5. 把同一条线上的三个数加起来。（每空1分，共9分）

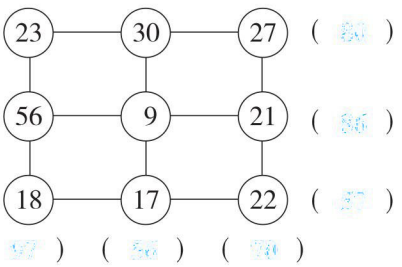

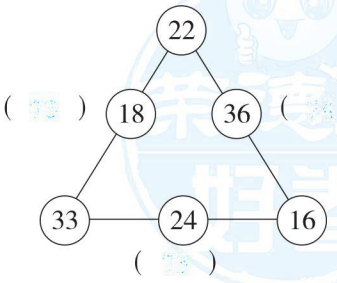

关注微信公众号“教辅资料站”获取更多学习资料

2.解决问题综合提升专题卷

班级_____ 姓名_____ 得分_____

一、仔细推敲，选一选。（每小题4分，共12分）

1. 小明有相同张数的10元和1元人民币若干张，小明可能有（ ② ）元。
   ① 31　　② 33　　③ 43　　④ 41

2. 图书馆里有故事书和连环画共65本，其中连环画有30本。根据这些信息，下面提出的问题不合理的是（ ④ ）。
   ①连环画有多少本　　②故事书比连环画多几本
   ③故事书有多少本　　④科技书比连环画少10本，科技书有多少本

3. 根据数学信息“每支笔6元，4支笔，3本书”，可以解答的数学问题是（ ② ）。
   ① 3本书多少钱　　② 4支笔和3本书一共多少钱
   ③ 4支笔多少钱　　④ 每本书多少钱

二、认真审题，填一填。（每空3分，共33分）

1. 一个星期有7天，12月份比四个星期多3天，12月份有（ 31 ）天。

2. （1）聪聪想买1个皮球和1本日记本，一共需要多少元？列式是（ 6+8=14（元） ）；买5个皮球需要多少元？列式是（ 5×6=30（元） ）。



（2）9×2表示9个（ 2 ）相加，在这道题中是求（ 买9支笔需要多少元 ）？

3. 1只蝉6条腿，6只蝉（ 36 ）条腿，9只蝉（ 54 ）条腿。

4. 每件优惠8元（如右图），买这两件一共（ 64 ）元。


28元


36元

5. 学生尺从刻度2到刻度6是（ 4 ）厘米。钟表上的分针从2走到8，走了（ 30 ）分；时针从2走到8，走了（ 6 ）时。

三、聪明的你，答一答。（共55分）

1. 小青蛙捉了多少只害虫？（8分）

8−5=34（只）

答：小青蛙捉了34只害虫。



关注微信公众号“教辅资料站”获取更多学习资料

2. （8 分）



3. （1）如果一件上衣搭配一条裤子，共有多少种不同的搭配？请连一连。（8 分）



42元



33元



18元



38元



25元

（2）妈妈带了 60 元买一套衣服，可以怎样买？（8 分）

4.



每把33元





每个24元



每支2元

（1）每支钢笔的价钱是“33 − 6 = 27（元）”，请你在钢笔下面的横线上补充一个信息。（7 分）

（2）买 2 支铅笔和 1 个闹钟，需要多少元？（8 分）

（3）请你提出一个数学问题，并列式解答。（8 分）

关注微信公众号“教辅资料站”获取更多学习资料

3.图形与几何、统计与概率综合提升专题卷

班级_____ 姓名_____ 得分_____

一、仔细推敲，选一选。（每小题3分，共6分）

1. 下面长约20厘米的物体是（ ③ ）。

①  ② 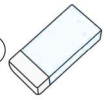 ③ 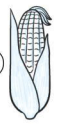 ④ 

2. 观察下面的物体，从前面看到的是（ ④ ）。

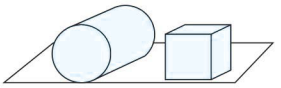

①  ② 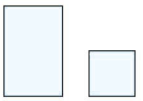 ③  ④ 

二、认真审题，填一填。（每空2分，共40分）

1.    

起床：6:20　早餐：7:05　上学：7:45　课间操：10:20

2. 一个角是由一个（ 顶点 ）和两条（ 边 ）组成的。

3. 在括号里填上合适的长度单位。

（1）一张课桌高约75（ 厘米 ）。　（2）张老师身高172（ 厘米 ）。

（3）一张床长约2（ 米 ）。　（4）一张奖状长约30（ 厘米 ）。

4. 31米＋34米＝（ 65 ）米　1米－29厘米＝（ 71 ）厘米

73厘米＋27厘米＝（ 100 ）厘米＝（ 1 ）米

5. 在○里填上“＞”“＜”或“＝”。

2厘米 ＜ 2米　10分＋50分 ＝ 1时　130厘米 ＝ 1米30厘米

1米 ＞ 99厘米　54厘米 ＜ 45米　6米 － 600厘米

三、聪明的你，答一答。（共54分）

1. 画一画。（每小题4分，共12分）

（1）先量出下面线段的长度，再画出比它长2厘米的线段。

（ 3厘米 ）

关注微信公众号“教辅资料站”获取更多学习资料

（2）画两条线段，使它增加4个直角。　（3）添加一条线段，使它变成3个角。

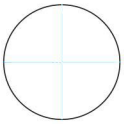

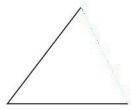

2. 数一数。（每空3分，共18分）

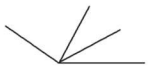

（ 6 ）个角　（ 2 ）个钝角

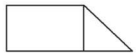

（ 2 ）个角　（ 5 ）个直角

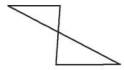

（ 3 ）个角　（ 2 ）个直角

3. 连一连。

（1）将时间和对应的活动连起来。（8分）

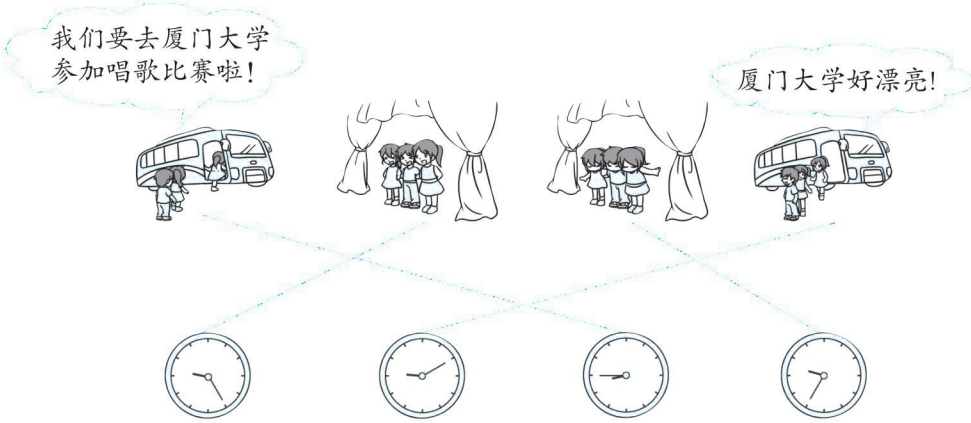

（2）连一连。（8分）

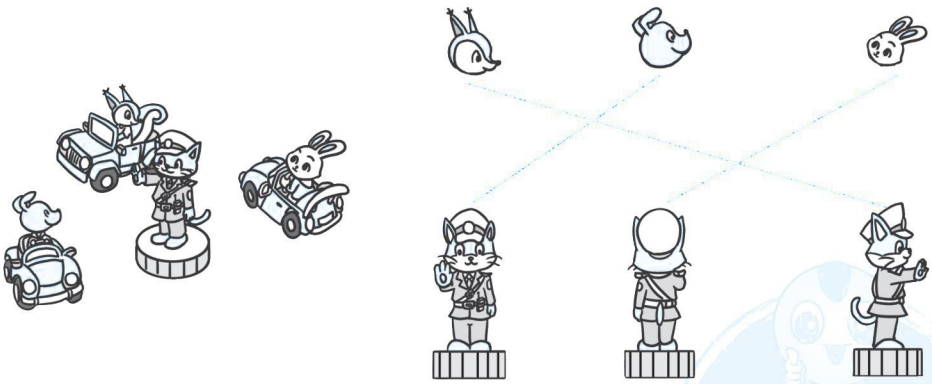

4. 圈一圈。请圈出明明踢足球的时间。（8分）





明明

我5:50写完日记，然后去踢足球。

7:30我和明明在花坛前玩捉迷藏。



小红

关注微信公众号“教辅资料站”获取更多学习资料

1.高频考点抢分卷

班级_____ 姓名_____ 得分_____

一、仔细推敲，选一选。（每小题3分，共24分）

1. 下面物体中，高度最接近2米的是（ ② ）。

① 写字台　② 教室的门　③ 书包　④ 台灯

2. 6×7=42表示（ ③ ）。

① 6和7相加　② 7个6相加　③ 6个7相乘　④ 6和7相差

3. 26+□8的和是五十几，□里填（ ② ）。

① 1　② 2　③ 3　④ 4

4. 右图用算式表示是（ ③ ）。

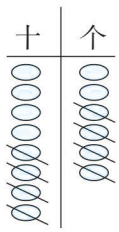

① 76－44　② 86－34

③ 86－44　④ 42＋44

5. 对于5×9和9×5，下列说法正确的是（ ② ）。

① 读法一样　② 计算时所用的乘法口诀相同

③ 计算结果不同　④ 读法和计算结果都一样

6. 小明在计算两位数加两位数时，个位上算2＋3=5，十位上算5＋4=9，这道题是（ ② ）。

① 25＋43　② 52＋43　③ 34＋25　④ 52＋34

7. 下面可以列式为7×4的数学问题是（ ④ ）。

① 第一组有7个人，第二组有4个人，一共有几个人

② 第一组有7个人，其他每组有4个人，一共有几个人

③ 第一组有7个人，每人做4朵花，一共跳了多少下绳子

④ 第一组有7个人，每人写了4个大字，一共写了多少个大字

8. 下面说法错误的是（ ③ ）。

① 一支粉笔大约长7厘米　② 锐角是比直角小的角

③ 角的两条边越长，角越大　④ 根据六六三十六可以写出一道乘法算式

关注微信公众号“数辅资料站”获取更多学习资料

二、认真审题，填一填。（第 1 小题 9 分，第 5 小题 10 分，其余每空 3 分，共 52 分）

1. $5 \times 3 =$（　）$+$（　）$+$（　）

   $6+6+6+5 =$（　）$\times$（　）$-$（　）$=$（　）$\times$（　）$+$（　）

2. 填上合适的单位名称。

   一支铅笔长 10（　　）。　　妈妈身高 1（　）60（　　）。

3. ○○○　○○○　○○○　○○○

   上图表示（　）个（　）相加，用加法计算是（　　），用乘法计算是（　　），计算时所用的乘法口诀是（　　）。

4. 一共有多少个角？

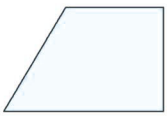

（　）个

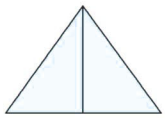

（　）个

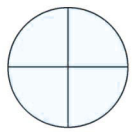

（　）个

5. 把下列算式按得数的大小从大到小排列。

   $8+8+8$　　8×8　　$80-8$　　$48+35$　　$8-8$

   （　　）$>$（　　）$>$（　　）$>$（　　）$>$（　　）

三、聪明的你，答一答。（共 24 分）

1. 敏敏从图书馆借了一本 70 页的连环画，借书期限是一个星期，她计划每天看 9 页，能按期还书吗？（8 分）

2. 思思家过年做花灯，妈妈做了 25 个花灯，思思做得比妈妈少 12 个，思思做了多少个花灯？思思和妈妈一共做了多少个花灯？（8 分）

3. 龙岩上杭古田会议会址星期六上午接待游客 45 名，下午比上午多接待 5 名游客，_____？（提出一个数学问题，并画图解决）（8 分）

关注微信公众号“数辅资料站”获取更多学习资料

2.易错题抢分卷

班级_____ 姓名_____ 得分_____

一、仔细推敲，选一选。（每小题3分，共18分）

1.  左图中一共有（ ③ ）个直角。

① 4　② 6　③ 8　④ 10

2. 在下图中，小鸟看到的是图（ ② ）。

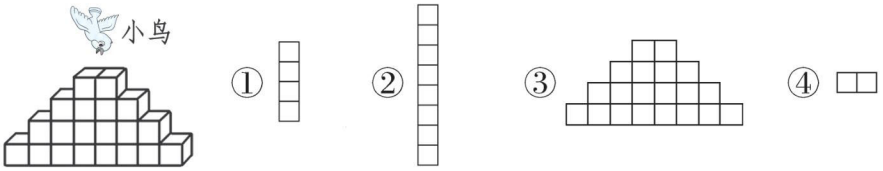

3. 丽丽和她的3个好朋友，每人折了5朵花，一共折了（ ② ）朵花。

① 15　② 20　③ 8　④ 9

4. 与6×4的计算结果相等的算式是（ ③ ）。

① 6×3－6　② 6×3＋4　③ 6×3＋6　④ 4×5＋5

5. 从厦门开往深圳北的D2339次动车，7:35从厦门出发，11:27到达深圳北。下面哪个时间表示它在开往深圳北的过程中？（ ② ）。



6. 计算下图中一共有多少条金鱼，列式错误的是（ ② ）。



① 4×3＋2　② 4×4－1　③ 4×4－2　④ 4＋4＋4＋2

二、认真审题，填一填。（前4小题每空2分，其余每空3分，共53分）

1. 53比（ 79 ）少26；（ 81 ）比42多19。

比75多6的数是（ 81 ）；39比26多（ 13 ）。

比35少18的数是（ 17 ）；27比58少（ 31 ）。

2. 聪聪和他的6个好朋友，每人栽了4棵树，一共栽了（ 28 ）棵树。

3. 8×2表示（ 2个8（或8个2） ）相加，8×8表示（ 8个8 ）相加。

关注微信公众号“教辅资料站”获取更多学习资料

4. 右图中有（ 9 ）条线段，（ 4 ）个锐角，（ 6 ）个直角，（ 3 ）个钝角。



5. 括号里最大能填几？

（ 7 ）×7＜51　　68＞（ 8 ）×8　　56＞29＋（ 26 ）

34＜64－（ 28 ）　　（ 62 ）－6＜55　　36＞18＋（ 17 ）

6.



过10分是（ 6:10 ）。



过一刻是（ 8:15 ）。



过20分是（ 6:20 ）。

三、聪明的你，答一答。（共29分）

1. 二年级一共有多少人要戴红领巾？三年级要戴红领巾的人数比二年级多9人，三年级有多少人要戴红领巾？（8分）

35＋18＝53（人）　53＋9＝62（人）

答：二年级一共有53人要戴红领巾，三年级有62人要戴红领巾。



2.（1）买1个放大镜和1本词典，能节省8元吗？（7分）

18＋27＝45（元）　45＜50

答：不能节省8元。



（2）买1个地球仪和1副三角尺一共要多少钱？（7分）

9＋6＝15（元）

答：买1个地球仪和1副三角尺一共要15元钱。

（3）买9副三角尺和1个地球仪需要多少钱？（7分）

9×6＋9＝63（元）　63＞50　63－8＝55（元）

答：买9副三角尺和1个地球仪需要55元钱。

关注微信公众号“教辅资料站”获取更多学习资料

3.常见难题抢分卷

班级_____ 姓名_____ 得分_____

一、仔细推敲，选一选。（每小题3分，共18分）

1. 两个数的积与这两个数的和相比，（ ② ）。

① 积一定大　② 和一定大　③ 一样大　④ 无法确定

2. 小老鼠从上面观察下面四个物体，□是从（ ③ ）号物体看到的。

① 　② 　③ 　④ 

3. 如果□表示6，那么表示（ ② ）。

① 4　② 24　③16　④ 36

4. 如果把图中的绳子拉直，它的长度最接近（ ③ ）。

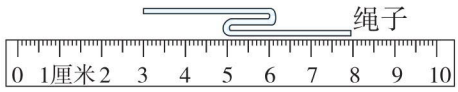

① 5厘米　② 6厘米　③ 7厘米　④ 8厘米

5. 下面4个算式都有数字看不清，请你估计一下，得数一定比50大的算式是（ ② ）。（都是两位数相减）

① 80－3 　② 33＋2 　③ 2  ＋1 　④ 7  －26

6. 根据“女生比男生多3人”这句话，下面关系成立的是（ ③ ）。

① 男生人数－女生人数＝3　② 女生人数＋3＝男生人数

③ 女生人数－男生人数＝3　④ 男生人数＋女生人数＝3

二、认真审题，填一填。（每空3分，共51分）

1. 有6个人排队买书，平均每个人需要2分钟，轮到最后1个人买时，他等了（ 10 ）分钟。

2. 不计算，比较下面算式的大小。（△代表同一个数）

36＋△  38＋△　　△－19 △－20

3. 幼儿园买来一些花，比30枝少，比20枝多。如果每6枝插一瓶正好插完，这些花有（ 24 ）枝。

关注微信公众号“教辅资料站”获取更多学习资料

4. 明明给小丽 6 本书后，两人就同样多，原来两人相差（ 12 ）本书。

5. 小马虎在做一道乘法算式时，把其中的一个乘数 7 看成了 2，结果是 12。那么正确的积是（ 42 ）。

6. 青青在用学生尺测量一支铅笔的长度时，从尺子的刻度 5 开始量起，量到刻度（ 14 ），青青最后测量出这支铅笔的长度是 9 厘米。

7. 按要求排一排。

80 厘米　　5 米　　700 厘米　　6 米 30 厘米

（ 700 厘米 ）>（ 6 米 30 厘米 ）>（ 5 米 ）>（ 80 厘米 ）

8. 35 − 2 □，□里最小填（ 5 ）要退位。

46 + 3 □，□里最小填（ 4 ）要进位。

9. 有一个三角形花坛，每边插 5 面旗子，三个角都插，一共要插（ 12 ）面旗子。

10. 右图中有（ 5 ）条线段，（ 3 ）个角，（ 2 ）个直角。

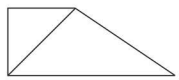

三、聪明的你，答一答。（共 31 分）

1. 沙茶面是厦门一道著名的汤类面食小吃。某沙茶面店的每张桌子可以坐 6 人，现在来了若干人，再来 2 人就坐满 5 张桌子了，这家沙茶面店现在来了多少人？（10 分）

5 × 6 − 2 = 28（人）

答：这家沙茶面店现在来了 28 人。

2. 摆满整个花坛，一共需要多少盆花？（10 分）

3 × 8 = 24（盆）

答：一共需要 24 盆花。



3. 文具店原来有 56 本拼音本，卖出 23 本，又购进 34 本，现在文具店的拼音本比原来多了还是少了？（11 分）

56 − 23 = 33（本）　33 + 34 = 67（本）　67 > 56

答：现在文具店的拼音本比原来多了。

关注微信公众号“教辅资料站”获取更多学习资料

4.新题型抢分卷

班级_____ 姓名_____ 得分_____

一、仔细推敲，选一选。（每小题 4 分，共 20 分）

1. 下面不能正确表示 34 − 21 的图是（ ① ）。

① 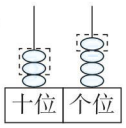

② 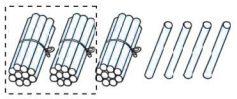

③ 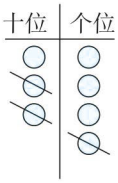

④ 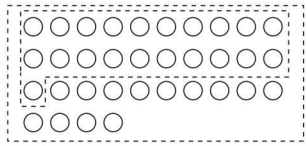

2. 玲玲做一道减法算式时，错把减数 27 写成了 24，结果得 20。错误的差比正确的差（ ① ）。

① 多了 3　② 少了 3　③ 多了 6　④ 少了 6

3. 在算式 5□ + 26 中，□里填（ ② ）不用向前一位进 1。

A. 1　B. 4　C. 5　D. 2

① A 和 B　② A 和 D　③ B 和 C　④ C 和 D

4. 妈妈为全家买了 3 盒冰激凌，其中价格最低的 1 盒是 2 元，价格最高的 1 盒是 5 元，3 盒冰激凌的总价可能是（ ③ ）元。

① 6　② 11　③ 15　④ 16

5. 东东有 70 元，买书用去 42 元，买本子用去 16 元。那么 42 + 16 表示（ ④ ）。

① 东东还剩下多少钱　② 东东买的本子比书少多少钱

③ 东东原来有多少钱　④ 东东买的书和本子一共用去多少钱

二、先补全题，再列竖式计算。（每小题 7 分，共 28 分）

5 + 27 = 79

（变成不进位加法）

75 − 4 = 29

（变成退位减法）

荣德基好卷

关注微信公众号“教辅资料站”获取更多学习资料

36 ○ （61 ○ 34） =

（先算减法，再算加法）

48 ○（26 ○ 18）=

（先算加法，再算减法）

三、聪明的你，答一答。（共 52 分）

1. 35 + 42 = （　　）（3 分）

（1）请你猜一猜，结果大概在哪个位置。在线上用“△”标出来。（5 分）



（2）（5 分）

先算（　　），
请你在计数器上表示出来；

再算（　　），
请你在计数器上表示出来。

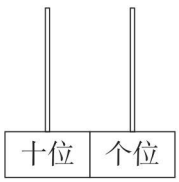

2. 有两个立体图形从前面看如下图，这两个立体图形是我们学过的，它们可能是什么？（13 分）

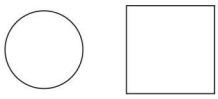

3. 观察下边的图形，要看到，应该从哪个方向看？为什么？（13 分）

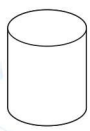

4. 木工师傅要把一根粗细均匀的木头锯成 5 段，每锯 1 次需要 5 分钟，一共需要多少分钟？（先画图帮助理解题意，再解答）（13 分）

关注微信公众号“教辅资料站”获取更多学习资料

期末必备考点大盘点

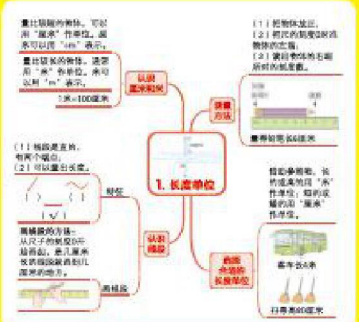

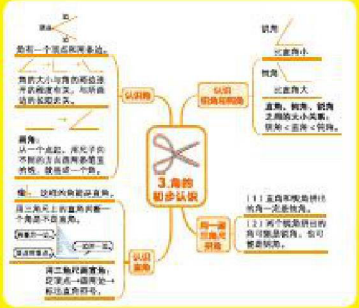


6. 乘内乘法（二）
两位数乘两位数的横线问题
两位数乘两位数的竖式问题
两位数乘两位数的问题的方法
两位数乘两位数的口诀
两位数乘两位数的竖式
两位数乘两位数的横线
两位数乘两位数的

大卷同步达标　小卷期末领先





出版发行：[illegible]
[illegible]
[illegible]
ISBN 978-7-[illegible]

本书为赠品
与本书配套的学生用书已经盖。

关注微博官方账号「教辅资料站」获取更多学习资料