教辅资料站
电子教辅 试卷练习
知识总结 备课资源
大卷
扫码关注获取更多学习资料

大卷全程培优 微卷助冲满分

好卷

DAJUANQUANCHENGPEIYOU WEIJUANZHUCHONGMANFEN

大卷全程培优 | 单元培优 测试卷(8套) | 归类培优 测试卷(3套) | 期中(末)培优 测试卷(4套)

微卷助冲满分 | 核心考点 突破卷(12套) | 期末冲刺 冲分卷(4套)



二年级

数学(上)(JJ版)

吉林教育出版社

海量资源 “一码”搞定



教师专属福利

✓让您教学更轻松

1. PPT版教学课件 “预、授、练、考”全环节，个性可改。
2. 点典教案 PDF版和Word版。
3. 备课资料包 图文资料、音视频素材、拓展阅读、说课稿，一应俱全。
4. 课文朗读音视频
5. 听力测试音频
6. Word版试题库 《典中点》《好卷》中好题新题任你用。

✓惊喜活动等您来

7. 荣德基图书免费领 样书直接到您手。
8. 反馈问题得好礼 反馈图书质量问题，荣德基图书免费用。
9. 分享资源得好礼 邀您投递研究成果、优质资源、好题好卷，惊喜回报等您拿。
10. 诚邀加盟 有机会加盟中国品牌创新发展工程推荐品牌《点拨》《典中点》编委会。

学生·家长助力服务

1. 重难知识微课 识字微课、阅读微课、习作微课、口语交际微课、方法微课。
2. 《典中点》“极速提分法”习题微课
3. 《好卷》附加题精讲微课
4. 写字微课 笔顺笔划演示、写字方法指导。
5. 音视频 课文朗读、词语报听写、推荐阅读。

好卷 = 《大卷》+《微卷》

大卷 全程培优 微卷 助冲满分

不是所有的试卷都叫“好卷”，期末提分才是硬道理！

大卷 同步培优卷

✦单元培优测试卷

第一单元 观察物体（一） …… 1
第二单元 加减混合运算 …… 3
第三单元 表内乘法（一） …… 5
第四单元 角的认识 …… 7
第五单元 表内除法（一） …… 9
期中测试卷（一） …… 11
期中测试卷（二） …… 13
第六单元 象形统计图和统计表 …… 15
第七单元 表内乘法和除法（二） …… 17
第八单元 探索乐园 …… 19

✦归类培优测试卷

1. 计算 …… 21
2. 解决问题 …… 23
3. 几何与统计 …… 25

✦综合培优测试卷

1. 期末测试卷（一） …… 27
2. 期末测试卷（二） …… 29

微卷 专项拔尖卷

✦核心考点突破卷

可按段或期末用

1. 观察物体 …… 1
2. 加减混合运算的计算 …… 3
3. 加减混合运算的应用 …… 5
4. 乘法的初步认识 …… 7
5. 2~6的乘法口诀 …… 9
6. 角的认识 …… 11
7. 除法的初步认识 …… 13
8. 用2~6的乘法口诀求商 …… 15
9. 象形统计图和统计表 …… 17
10. 7、8、9的乘法口诀 …… 19
11. 用7、8、9的乘法口诀求商 …… 21
12. 倍的认识 …… 23

✦期末冲刺抢分卷

1. 高频考点抢分卷 …… 25
2. 易错题抢分卷 …… 27
3. 常见难题抢分卷 …… 29
4. 新题型抢分卷 …… 31

| 大卷答案▶见大卷第31~36页 / 微卷答案▶见大卷第36~40页 |

关注微信公众号“教辅资料站”获取更多学习资料

荣德基 好卷 单元培优测试卷

二年级 数学 上（JJ版）

第一单元 观察物体（一）

时间：60分钟　满分：100分+10分

题号	一	二	三	四	五	六、附加题	总分
得分							

一、仔细审题，填一填。（每空1分，共19分）

1. 从一个长方体的前面和（　　）面看到的图形是一样的。

2. 分别从前面、上面和侧面观察球，看到的都是（　　）形。

3. 分别是谁看到的？把他们的名字写在相应的括号里。



（1）（　　）只能看见牛的尾巴，而看不见牛的头。

（2）（　　）看不见牛的尾巴。

（3）（　　）可以看见牛身体的一侧。

4. （1）  从（　　）面看有3个点；从（　　）面看有2个点；从（　　）面看有4个点。（填“前”“侧”或“上”）

（2）  从前面看有（　　）个三角形；从上面看有（　　）个三角形；从右面看有（　　）个三角形。

5. 

从前面看是□的是（　　），从上面看是□的是（　　），从侧面看是—的是（　　）。

6. 小鹿在运动会上受伤了，小鸟站在树上打电话叫救护车，一会儿救护车来了，停在小猴旁边，小熊在后面大声叫：“快从这里上”。小鸟、小猴、小熊各自看到的是哪幅图？请你填一填。


（　　）


（　　）


（　　）

7. 一枚骰子的每个面上分别有1～6个点，每两个相对面上的点数之和相等，从位置A能看到（　　）个点，从位置B能看到（　　）个点。



二、仔细推敲，选一选。（将正确答案的序号填在括号里）（每小题3分，共18分）

1. 如下图，从侧面看到的应该是（　　）。



2. 观察下图，（　　）是从上面看到的。



3. 观察下图，小云看到的是（　　）。



4. 仔细观察，（　　）号图是从右面看到的。



5. 下面左边的物体，从前面看到的是图（　　），从上面看到的是图（　　），从侧面看到的是图（　　）。



6. 从不同方向观察下面4个物体，可以看到长方形的物体有（　　）个。



三、仔细观察，在小朋友看到的图形下面的□里画√。（每小题3分，共6分）

1.

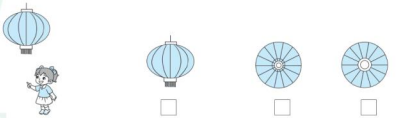

关注微信公众号“教辅资料站”获取更多学习资料

2.

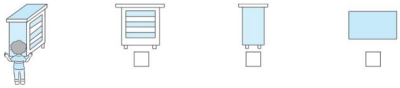

四、想一想，连一连。(共 28 分)

1. 下面的四幅图分别是谁看到的？(8 分)



2. 下面的四幅图分别是谁看到的？(8 分)

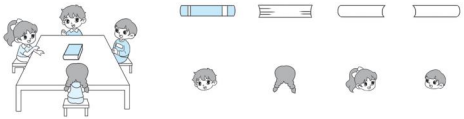

3. 下面三张照片分别是明明站在大象的哪个位置拍到的？(12 分)

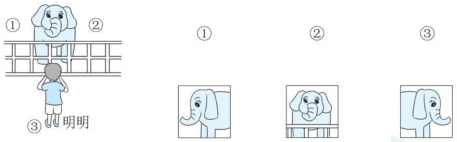

五、按要求做题。(共 29 分)

1.

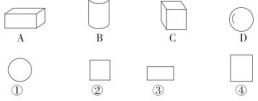

(1) 从后面看图形 A，看到的形状是 (　　)。(2 分)

(2) 从上面看到的是①，这个物体是 (　　)。(2 分)

(3) 从右面看图形 C，看到的形状是 (　　)。(2 分)

(4) 从侧面看到的是④，这个物体是 (　　)。(2 分)

2. 在 (　　) 里画出看到的图形。

(1) 从的侧面看，看到的是 (　　)。(3 分)

(2) 从  的前面看，看到的是 (　　)。(3 分)

(3) 从的上面看，看到的是 (　　)。(3 分)

3. 把一个长方体纸盒的前面、侧面和上面分别写上不同的数字，把它剪开后如图所示，用相同的数字标出对着的面。(6 分)



4. 观察正方体，写出分别是从哪个方向看到的。(6 分)



六、附加题：天才的你，试一试。(10 分)

一个正方体的六个面上分别标有 1 ~ 6 这 6 个数，且相对面上的数的和是 7。

(1) 由相对面上的数的和是 7 可知，正方体的前面是 2，和它相对的面上的数是 (　　)；正方体的右面是 4，和它相对的面上的数是 (　　)。

(2) 除去前、后、左、右面上的数可知，上、下两个面上的数分别是 (　　) 和 (　　)。

(3) 如果这个正方体的前面是 4，右面是 6，那么这个正方体上、下两个面上的数分别是几？



自己说说

老师点评

家长点评

关注微信公众号“教辅资料站”获取更多学习资料

第二单元 加减混合运算

时间：60分钟　满分：100分+10分

题号	一	二	三	四	五、附加题	总分
得分						

一、仔细审题，填一填。（每空1分，共21分）

1. 下面的小棒图表示的是算式（　　）的计算过程。



2. 45 +（31 − 19），在这个算式中，先算（　　）法，再算（　　）法。
3. 一个数比53少16，这个数是（　　），再加上18是（　　）。
4. （1）先计算 80 − 21 = 59，再计算 32 + 59 = 91，写成一个算式是（　　）；
（2）先计算 45 + 35 = 80，再计算 100 − 80 = 20，写成一个算式是（　　）。
5. 红红拿70元钱可以买一个（　　）和一个（　　），还剩（　　）元钱。


足球36元


篮球58元


排球29元

6.



7. 在○里填上“+”或“−”，使等式成立。

51 − 8 ○ 40 = 83　　41 + 49 ○ 27 = 63

45 ○ 19 ○ 16 = 42　　58 ○ 18 ○ 21 = 55

8. 在（　　）里填上合适的数。

57 + 18 +（　　）= 100　　73 − 17 −（　　）= 25

（　　）− 37 − 26 = 12　　92 −（　　）+ 18 = 36

二、仔细推敲，选一选。（将正确答案的序号填在括号里）（每小题2分，共16分）

1. 聪聪在计算一道加法算式时，他是这样算的：6 + 7 = 13，50 + 30 = 80，80 + 13 = 93，他计算的这道加法算式是（　　）。

① 63 + 57　② 65 + 73　③ 56 + 37

2. 69比25与34的和大多少？列式正确的是（　　）。

① 69 − 25 + 34　② 69 −（25 + 34）　③ 69 + 25 − 34

3. 最大的两位数减去最小的两位数，再减去34，结果是（　　）。

① 35　② 45　③ 55

4. 得数比70大的算式是（　　）。

① 80 − 30 + 45　② 45 + 25 − 35　③ 52 + 40 − 27

5. 下面各组算式得数相等的是（　　）。

① 55 − 26 − 17　② 73 − 25 − 21　③ 43 + 30 − 12

55 −（26 − 17）　73 −（25 + 21）　43 +（30 + 12）

6. “冰糖心”苹果是产于新疆阿克苏的一种苹果，含糖量高，口味特别甜。欣欣水果店运进了42箱“冰糖心”苹果，微信预定卖出去18箱，店里卖出去21箱，还剩多少箱？列式不正确的是（　　）。

① 42 − 18 − 21　② 42 − 18 + 21　③ 42 −（18 + 21）

7. 要解决“一组有15人，二组比一组多4人，二组有多少人？”的问题，冬冬画了一张图，图中“☆”所在的长框表示的是（　　）。

① 二组有多少人

② 二组比一组多4人

③ 二组与一组同样多的15人

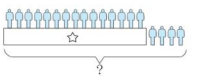

8. 学校运动会开幕式彩排，有51名同学站成一排。你知道明明和文文之间有多少人吗？下面列式正确的是（　　）。

① 51 + 29 + 18

② 51 − 18 − 29

③ 18 + 29



姓名　学号　班级　学校
请不要在密封线内答题哦！
关注微信公众号“教辅资料站”获取更多学习资料

三、细心的你，算一算。（共 35 分）

1. 连一连。（8 分）

48 − 24 + 15　　33 + 61 − 12　　28 + 46 − 15　　79 − (52 − 20)

59　　39　　82　　47　　63

25 + 49 − 35　　88 − 61 + 32　　74 − 33 + 22　　55 − 28 + 20

2. 列竖式计算。（每小题 3 分，共 9 分）

84 − 46 + 17 =　　24 + 32 + 17 =　　94 − 32 − 15 =

3. 脱式计算。（每小题 3 分，共 12 分）

18 + 39 + 36　　85 − 24 − 27　　90 − (23 + 24)　　67 − 28 + 23

4. 看图列式计算。（6 分）



□○□○□=□（个）



□○□○□=□（元）

四、聪明的你，答一答。（共 28 分）

1. 图书馆有故事书 96 本，第一周借出 28 本，第二周借出 30 本，现在还有多少本？（请你用两种方法解答）（7 分）

2. “行人过马路要走斑马线”“不闯红灯”等都是我们要遵守的交通秩序和礼仪。为了提高人们文明出行的意识，23 中两名团员积极加入交通服务队志愿者行动，向过往行人发放宣传资料。上午发了 34 份，下午比上午多发了 18 份。下午发了多少份？这天一共发了多少份？（6 分）

3. 柳林学校冬季踢毽子比赛开始了，下面表格中是二年级踢毽子前三名的成绩：

	第一次	第二次	第三次	总数
冬冬	28 下	30 下	32 下	
丁丁	31 下		27 下	94 下
兰兰	29 下	31 下		

（1）请你认真计算，将第二、三行补充完整。（4 分）

（2）兰兰获得了第二名，她三次跳的总数最多是多少下？她第三次最多跳了多少下？（5 分）

4. 学校舞蹈队原来有多少人？（6 分）



五、附加题：天才的你，试一试。（共 10 分）

你能用 25、27、36、38 这四个数（每个算式中每个数只用一次）编成加减混合算式吗？试试看。

□○□○□=□　　□○□○□=□

□○□○□=□　　□○□○□=□

自己说说
老师点评
家长点评

微信搜索公众号“教辅资料站”获取更多学习资料

荣德基 好卷 归类培优测试卷

二年级 数学 上（JJ版）

1. 计算

时间：60分钟　满分：100分+10分

题号	一	二	三	四	五、附加题	总分
得分						

一、仔细审题，填一填。（第7小题3分，其余每空1分，共30分）

1. 把12颗☆分一分。

（1）平均分成2份，每份有（　　）颗。算式是（　　）。

（2）每4颗一份，可以分成（　　）份。算式是（　　）。

2. 根据口诀“六九五十四”写出两道乘法算式和两道除法算式。

（　　）（　　）（　　）（　　）

3. 在○里填上“＞”“＜”或“＝”。

2×4 ○ 36÷6　　2×6 ○ 3×4　　72÷9 ○ 27÷3

15÷3 ○ 10÷2　　3×3 ○ 3+3+3+3　　4×6 ○ 20

4. 把30－17＝13，13＋79＝92写成一个综合算式是（　　）；把63－28＝35，97－35＝62写成一个综合算式是（　　）。

5. ★＋★＋★＋★＋★＝12，○＋○＋○＋○＋○＝30，那么○÷★＝（　　）。

6. 夺旗。

34＋5 $\xrightarrow{-18}$（　　）$\xrightarrow{+24}$（　　）$\xrightarrow{+27}$（　　）$\xrightarrow{-27}$（　　）

7. 在每个图中的○里填上相同的数，使它们的和等于中间的数。

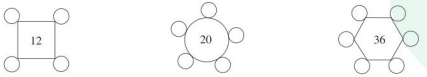

8. 把下列算式按结果从大到小排列。

36÷9　　6×9　　40÷8　　42÷7　　7×8　　9÷3

（　　）＞（　　）＞（　　）＞（　　）＞（　　）＞（　　）

二、仔细推敲，选一选。（将正确答案的序号填在括号里）（每小题2分，共16分）

1. 6个5相加是多少？简便算式是（　　）。

①6＋6＋6＋6＋6　　②5＋6　　③6×5

2. 下面没有用到8的口诀的算式是（　　）。

①8÷1　　②2×4　　③24÷8

3. 箭头指向的数是（　　）。

①被除数　　②4×9的积　　③除数



4. 下列算式中，积最小的是（　　）。

①5×5　　②4×7　　③6×5

5. 把9×9－9改写成乘法算式是（　　）。

①9×10　　②9×8　　③7×9

6. 如果☆＋☆＋☆＝15，○＋○＋○＋○＋○＝35，那么☆＋○＝（　　）。

①11　　②12　　③13

7. 甲图的大小是乙图的（　　）倍。

①2　　②3　　③4

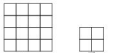

8. 丫丫今年5岁，妈妈今年32岁，再过4年，妈妈的岁数是丫丫的（　　）倍。

①4　　②5　　③6

三、细心的你，算一算。（共33分）

1. 直接写出得数。（每小题0.5分，共5分）

4×8＝　　35－7＝　　26＋34＝　　3×5＝　　40÷5＝

40＋17＝　　9×4＝　　48÷8＝　　65－60＝　　7÷7＝

2. 在（　　）里填上合适的数，□里最大能填几？（每小题1分，共8分）

（　　）×6＝48　　4×（　　）＝36　　21÷（　　）＝3　　（　　）÷8＝7

4×□＜21　　□×6＜37　　□×3＜15　　2×□＜11

3. 列竖式计算。（每小题2分，共8分）

27÷9＝　　5×7＝　　72÷8＝　　32÷4＝

关注微信公众号“教辅资料站”获取更多学习资料

请不要在密封线内答题哦！

4. 脱式计算。（每小题 2 分，共 6 分）

100 − 34 − 27　　87 − （39 + 26）　　36 + （51 − 26）

5. 在□里填上合适的数。（每小题 2 分，共 6 分）

（1）
$$\begin{array}{r} 4\ \square \\ +\ \square\ 6 \\ \hline 6\ 3 \end{array}$$

（2）
$$\begin{array}{r} \square\ 3 \\ -\ 3\ \square \\ \hline 2\ 9 \end{array}$$

（3）
$$\begin{array}{r} 9\ \square \\ -\ \square\ 3 \\ \hline 4\ 6 \end{array}$$

四、聪明的你，答一答。（共 21 分）

1. 学校举行套圈比赛，但记录单被墨水弄污看不清了，你能把弄污的部分填上吗？（3 分）

分数(分) / 次数 / 姓名	第1次	第2次	第3次	总计
小冬	26	28		87
小刚	30		27	82
小丽	29	27	25	

2. 河北省石家庄市平山县的西柏坡，曾是中共中央所在地，党中央和毛主席在此指挥了决定解放战争走向的辽沈、淮海、平津三大战役，召开了具有伟大历史意义的七届二中全会和全国土地会议，解放全中国，故有“新中国从这里走来”、“中国命运定于此村”的美誉。西柏坡是我国革命圣地之一，是全国重点文物保护单位、国家 AAAAA 级旅游景区。国庆假期，牛牛和爸爸妈妈去西柏坡旅游，聆听红色故事，祭奠革命英雄。他们报了一个旅游团，旅游团一共有 100 人，其中老年人有 26 人，中年人有 47 人，剩下的都是儿童，儿童有多少人？（4 分）

3. 篮球的价钱是跳绳的几倍？（4 分）

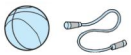

4.（1）他们俩谁打字快？（3 分）



（2）小强经过练习后，每分钟比原来多打 3 个字，现在他 8 分钟比原来多打多少个字？（3 分）

5. 爸爸今年多少岁？（4 分）



五、附加题：天才的你，试一试。（10 分）

○ + ○ + ○ + ○ + ○ = 35

○ × □ = 21　　□ × △ = 18

○ + □ + △ = （　　）

自己说说　老师点评　家长点评
微信公众号 教辅资料站
关注微信公众号“教辅资料站”获取更多学习资料

1. 期末测试卷（一）

时间：60分钟　满分：100分+10分

题号	一	二	三	四	五	六、附加题	总分
得分							

一、仔细审题，填一填。（第9小题8分，其余每空1分，共35分）

1. 

上图中表示有（　）个（　）；用加法算式表示为（　　）；

用乘法算式表示为（　　）或（　　）。

2. 把51＋29＝80，100－80＝20合成一个综合算式是（　　）。

3.（1）4×6＝（　）×8＝（　）

（2）36÷4＝（　）×（　）＝（　）

4. 右图的古诗一共有（　）个字，列式是（　　）。



5. 在○里填上“＞”“＜”或“＝”。

2＋4○2×4　　15○23＋15－19　　16÷2○4×2

7×6○5×8　　18÷2○81÷9　　2×5○3×4

6. 28根竹子最少要去掉（　）根才可以平均分给3只熊猫。

7. 袋子里有6个红球，4个白球，任意摸一个，摸出（　）球的可能性大，摸出（　）球的可能性小。

8. 时针和分针组成什么角？分别填在（　）里。



（　）　（　）　（　）

9. 按规律填一填，画一画。

（1）16，8，4，（　），（　）。

（2）1，2，3，5，8，（　），（　）。

（3） 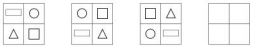

10. 王老师今年48岁，王老师的年龄是红红年龄的8倍。红红今年（　）岁。明年王老师的年龄是红红年龄的（　）倍。

二、仔细推敲，选一选。（将正确答案的序号填在括号里）（每小题2分，共14分）

1. 小狗看到的是（　）。



2. 右图中有（　）个直角。



①2　　②3　　③6

3. 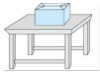

是从（　）面看到的；

是从（　）面看到的；

是从（　）面看到的。

①上　　②侧　　③前

4. 4个3相加，下面列式正确的是（　）。

A. 4＋3　　B. 4×3　　C. 4＋4＋4　　D. 3＋3＋3＋3

①AB　　②AC　　③BD

5. 一个箱子里装有红球和白球，任意摸一个，摸到的球的颜色（　）。

①不可能是白色　　②一定是白色　　③可能是白色

6. 下面说法中，正确的是（　）。

①每句乘法口诀都可以写出两道乘法算式

②一个角的两条边越长，这个角就越大

③正方形都有4个直角

7. 把20支铅笔平均分给丫丫和她的4个朋友，每人分到（　）支。

①4　　②5　　③6

三、细心的你，算一算。（共22分）

1. 直接写出得数。（每小题1分，共10分）

7×6＝	43－9＝	72÷9＝	95－20＝	10÷2＝
67＋18＝	28÷4＝	4×8＝	9×7－9＝	3×3＝

2. 列竖式计算。（每小题2分，共6分）

7×8＝　　49÷7＝　　24÷4＝

3. 脱式计算。（每小题2分，共6分）

100－26＋19　　84－（39＋26）　　78－18－29

关注微信公众号“教辅资料站”获取更多学习资料

四、动手操作题。(共 5 分)

1. 在第二行画□，使□的个数是△的 4 倍；在第三行画○，使□的个数是○的 2 倍。(2 分)

第一行：△ △

第二行：_____

第三行：_____

2. 连一连。(3 分)



五、聪明的你，答一答。(共 24 分)

1. 学期末各老师为学生准备奖品，李老师买了 3 本同样的笔记本花了 24 元，刘老师拿出 64 元，能买几本这样的笔记本？(4 分)

2.



(1) 小汽车上能坐几人？(3 分)　(2) 有 50 人，6 辆小客车能坐下吗？(3 分)

3. 公勺唤醒公德，公筷体现尊重。北方饭店准备了 80 双公筷，正值午餐人多的时候，二楼包间用了 24 双，一楼大厅用了 39 双，还剩多少双？(5 分)

4. 下面是二 (1) 班同学的体育成绩。

1 号	2 号	3 号	4 号	5 号	6 号	7 号	8 号	9 号	10 号	11 号	12 号
优	优	良	良	优	合格	优	合格	优	良	合格	良
13 号	14 号	15 号	16 号	17 号	18 号	19 号	20 号	21 号	22 号	23 号	24 号
优	合格	优	优	优	优	良	良	优	良	合格	优

(1) 把上面的成绩用画“正”字的方法统计一下。(3 分)

成绩	统计结果
优	
良	
合格	

(2) 填一填。(3 分)

成绩	优	良	合格
人数 (人)			

(3) 把上面的数据用不同的颜色表示出来。(3 分)

优

良

合格

六、附加题：天才的你，试一试。(10 分)

请你算一算，一共有多少人去秋游？

小朋友们去秋游，六路纵队并排走。小华从前排第 2，从后数来排第 3。

自己说说
老师点评
家长点评
密
封
线

关注微信公众号“教辅资料站”获取更多学习资料

单元培优测试卷

第一单元　观察物体（一）

一、1. 后

2. 圆

3.（1）小丽

（2）小强

（3）小红

4.（1）上　侧　前

（2）6　3　2

5. ①⑤　①②④　②④

6. 小猴　小鸟　小熊

7. 11　3

二、1. ①　2. ②　3. ③

4. ③　5. ③　①　②　6. ②

三、1. □☑□　2. □☑□

四、1.

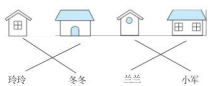

2.

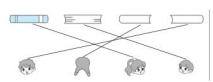

3.

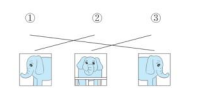

五、1.（1）③

（2）B 或 D

（3）②

（4）B

2.（1）□　（2）▯　（3）○

3.

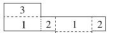

4. 上面　右面　前面

六、附加题：

（1）5　3

（2）1　6（或6，1）

（3）这个正方体上、下两个面上的数分别是2和5（或5和2）。

【点拨】如果这个正方体的前面是4，那么后面是3；如果右面是6，那么左面是1，所以它的上、下两个面上的数分别是2和5（或5和2）。

第二单元　加减混合运算

一、1. 51－37

2. 减　加

3. 37　55

4.（1）32＋(80－21)＝91

（2）100－(45＋35)＝20

5. 足球　排球　5　6. 44

7. ＋　－　－　＋　＋　－

8. 25　31　75　74

二、1. ③　2. ②　3. ③　4. ①

5. ②　6. ②　7. ③　8. ②

三、

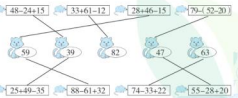

2. 84－46＋17＝55

$$\begin{array}{r} 8\ 4 \\ -\ 4\ 6 \\ \hline 3\ 8 \\ +\ 1\ 7 \\ \hline 5\ 5 \end{array}$$

24＋32＋17＝73

$$\begin{array}{r} 2\ 4 \\ +\ 3\ 2 \\ \hline 5\ 6 \\ +\ 1\ 7 \\ \hline 7\ 3 \end{array}$$

94－32－15＝47

$$\begin{array}{r} 9\ 4 \\ -\ 3\ 2 \\ \hline 6\ 2 \\ -\ 1\ 5 \\ \hline 4\ 7 \end{array}$$

3. 18＋39＋36

＝57＋36

＝93

85－24－27

＝61－27

＝34

90－（23＋24）

＝90－47

＝43

67－28＋23

＝39＋23

＝62

4. 42＋17＋36＝95（个）

98－32－15＝51（元）

四、1. 方法一：96－28－30＝38（本）

方法二：96－（28＋30）＝38（本）

答：现在还有38本。

2. 34＋18＝52（份）

52＋34＝86（份）

答：下午发了52份，这天一共发了86份。

3.（1）90下

36下

（2）她三次跳的总数最多是93下。

93－29－31＝33（下）

答：她第三次最多跳了33下。

4. 60－24＋16＝52（人）

答：学校舞蹈队原来有52人。

【点拨】求原来有多少人，可以从现在的人数往回倒推。

五、附加题：

（答案不唯一）25＋38－36＝27

38＋25－27＝36

27＋36－38＝25　36＋27－25＝38

第三单元　表内乘法（一）

一、1. 乘数　乘数　积

2. 4＋4＋4＋4＋4＝20　5×4＝20　4×5＝20

3. 六　3×6＝18　6×3＝18

二　2×3＝6　3×2＝6

三　3×4＝12　4×3＝12

二　四　2×4＝8　4×2＝8

4. 3　3　4　5　3　4（或6　2）　6　4

5. 6

6. 3　18

7. ×　×或＋　－　×　＋　－　×　×

8.（1）16　4×4＝16　（2）20

二、1. ②　2. ②　3. ③　4. ②　5. ②　6. ③

7. ②　8. ②　③

三、1. 5　2　1　2　2　3　3　2

1　4　6　6　4　6

2. 4×5＝20（根）　6×3＝18（个）

3×6＝18（个）

3. 1＋3＋5＋7＋9　5×5

四、1. 5×4＝20（条）

答：这些青蛙有20条腿。

2.（1）5×2＝10（元）　10＋3＝13（元）

答：一共要花13元。

（2）6×6＝36（元）　36元＜40元

答：不够。

教辅资料站
关注微信公众号“教辅资料站”获取更多学习资料

3. 6×5=30（个）

答：一共有30个娃娃。

4. 6×3=18（人）

18<20

答：3条船不能坐下。

5.（答案不唯一）国庆节，学校门口摆了两排花，每排摆了4盆，一共摆了多少盆花？

4×2=8（盆）

答：一共摆了8盆花。

五、附加题：

5×3=15（人）

答：一共有15人。

【点拨】方法不唯一，也可以用6×3－3=15（人）解决。

第四单元　角的认识

一、1. 点　2　角

2.



3. 大

4. 直

5. 锐　5【点拨】答案不唯一。

6. 4　2　2　1

7. ∠2　∠3　∠1　∠4

8. 锐

二、1. ③　2. ②　3. ①　4. ③　5. ③　②

6. ③　7. ②　8. ③

9. ③　【点拨】角的大小和角的两条边叉开的大小有关，和所画的两条边的长短没有关系。

三、1. 锐　直　钝　锐　直

2. ③④⑤⑧　①⑥　②⑦

3. 6　1　2　3　2　2　2

4. ⑤　③　②　④　①

四、1.（答案不唯一）



2.（1）



（2）



（3）

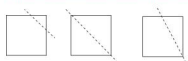

5　4　3

五、附加题：

1. 4



2.（画法不唯一）



第五单元　表内除法（一）

一、1. 12　3　4　12÷3=4　12除以3等于4

2. 1×6=6　6×1=6　6÷1=6　6÷6=1

3. 6÷2=3　6　2　3

4. 5　5. >　<　<　<　=　=

6. 6　四六二十四

7. 3　6　【点拨】答案不唯一。

8. 2　3

二、1. ②　2. ③　3. ③　4. ②　5. ①　6. ③

【点拨】8+8=16（条），16÷4=4（只）。

7. ①　8. ①

三、1. 12÷3=4　12÷4=3

20÷4=5　20÷5=4

18÷3=6　18÷6=3

2. 3　3　1　5　4

2　4　2　5　6

3. 4　4　5

5　12　1

1　4　3

四、1. 12÷4=3　12÷3=4

2. 18÷3=6　18÷6=3

3. 3×5=15　5×3=15

15÷3=5　15÷5=3

五、1.（1）8－5=3（只）

答：另一个装3只。

（2）8÷2=4（只）

答：每个笼子装4只。

2. 30－12=18（米）　18÷3=6（套）

答：还剩下18米，剩下的布能做6套衣服。

3.（1）2×5=10（元）

答：一共用去10元。

（2）16÷4=4（元）

答：每把剪刀4元。

（3）（答案不唯一）一顶帽子的价钱能买几支铅笔？

8÷2=4（支）

答：一顶帽子的价钱能买4支铅笔。

4. 25－1=24（人）　5－1=4（人）

24÷4=6（次）

答：他们至少6次才能全部过河。

【点拨】船上每次只能坐5人，但还需要把船摆渡到对岸，所以每次相当于运5－1=4（人），这样一共需要运25－1=24（人），所以他们至少需要24÷4=6（次）才能全部过河。

六、附加题：

6　2

期中测试卷（一）

一、1. 上

2. 36　6×6=36　6乘6等于36

3. 减　加

4. 12　3×4=12　6　12÷2=6

5. 钝　锐　钝

6. >　>　<

7. 4　3　6　3

8. 5　6　3　11

9. 6　5

二、1. ②　2. ①　3. ②　4. ③

5. ①　【点拨】猴哥哥可能吃20÷5=4（天），猴弟弟能吃20÷4=5（天）。

6. ②　7. ③　①　8. ②

三、1. 4　34　10　15

33　24　6　12

3　31　5　66

2. 15+36+24

=51+24

=75

82－45－13

=37－13

=24

58+（42－17）

=58+25

=83

100－35+28

=65+28

=93

3.（1）3×8=24　24÷3=8　8×3=24

24÷8=3

关注微信公众号“教辅资料站”获取更多学习资料

（2）$5\times4+3=23$ 或 $5\times5-2=23$

（3）$15\div5=3$

四、1. 略

2.（答案不唯一）

△△△　△△△　△△△

△△△　△△△

五、1. $51+38=89$（元）　$100-89=11$（元）

答：还剩 11 元。

2.（1）$6\times4=24$　（元）

答：小丽买 4 个皮球需要 24 元。

（2）$3\times6=18$（元）　$18+25=43$（元）

50 元 > 43 元

答：小红付的钱够。

3. $5+1=6$（人）　$18\div6=3$（把）

答：平均每人搬 3 把。

六、附加题：

先在蛋糕表面切两刀，成十字形，再拦腰横切一刀，就形成了 8 个直角，也就是把蛋糕平均分成了 8 块。

期中测试卷（二）

一、1. 5　3　15　5　3　15　$5\times3=15$

5 乘 3 等于 15

2. 一十　四　五　得八　二十五　二

3. 4　5

4. 钝　锐

5. 5　3　2

6. 19　79　$60+(46-27)=79$

7. 5　5　2　5

8. 3

二、1. ①　2. ②　3. ①　4. ②　5. ②　6. ①

7. ①　8. ①　③

三、1. 24　2　18　2　25

4　10　4　1　1

2. $12+45+38$

$=57+38$

$=95$

$84-(19+12)$

$=84-31$

$=53$

$73-27+54$

$=46+54$

$=100$

$100-26-38$

$=74-38$

$=36$

四、1. ②③⑤　①⑦　④⑥

2.



五、1.（1）$3+6=9$（张）

答：冬冬有 9 张纪念邮票。

（2）$6\times3=18$（张）

答：玲玲有 18 张纪念邮票。

2. $19+29=48$（人）

$48-35=13$（人）

答：有 13 人没分到毽子。

3. $42-24=18$（个）　$42+18+25=85$（个）

答：三只兔子一共采了 85 个蘑菇。

4.（1）$15\div3=5$（组）

答：分 5 组跑完。

（2）$3\times6=18$（次）

答：一共跳 18 次。

（3）$36\div6=6$（名）

答：每组有 6 名运动员。

六、附加题：

$41-39=2$（名）

$8-2=6$（名）

$6\div2=3$（名）

$3+2=5$（名）

答：给二（1）班 3 名学生，给二（2）班 5 名学生，这样才能使两班学生同样多。

第六单元　象形统计图和统计表

一、1. 涂色略

2. 书法　舞蹈

3. 3

4. 30

二、1. 36　33　25　24　54　7　9　59　2　30

2. 下　丁　正

3. 3　2　5

4. 涂色略

三、1.（1）14　8　7　11

（2）故事　科技

（3）25　（4）6

2.（1）12　15　9　3　2

（2）1

（3）3　（4）41

（5）（答案不唯一）建议同学们少看或不看电视，保护好眼睛。

四、1.（1）正正　正　正下　正正

（2）10　4　8　9

（3）涂色略

2.（1）5　17　6　2

（2）涂色略

五、附加题：

$5-3=2$　$70-30=40$

$58-2+40=96$

答：正确的和是 96。

第七单元　表内乘法和除法（二）

一、1. 8×4　8　4　32

2. 6　3

3. 3　5

4. 7　21　5

5. 6

6. 36　8

7. <　=　=　>　>　>

8. 25

9. 8　81

10. 4　7

二、1. ②　2. ③　3. ①　4. ①　5. ①

6. ①　③　7. ③　8. ③

三、1.

够装	不够装
	√

【点拨】$4\times7=28$（个），因为 $28<30$，所以不够装。

2.

晶晶	宁宁
	√

【点拨】$36\div6=6$（页），$36\div4=9$（页），$6<9$，所以宁宁平均每天看的页数多一些。

四、1. 8　81　16　35　6

100　4　1　54　21

2. $7\times8=56$　$45\div5=9$　$64\div8=8$

$$\begin{array}{r} 7 \\ \times\ 8 \\ \hline 56 \end{array}\qquad \begin{array}{r} 9 \\ 5\overline{)45} \\ 45 \\ \hline 0 \end{array}\qquad \begin{array}{r} 8 \\ 8\overline{)64} \\ 64 \\ \hline 0 \end{array}$$

3. $3\times5=15$

$3\times4+3=15$

五、1. $42\div7=6$（队）　$42\div6=7$（人）

答：能排成 6 队，平均每队有 7 人。

2. $7+1=8$（岁）　$8\times4=32$（岁）

答：妈妈明年 32 岁。

教辅资料站
关注微信公众号“教辅资料站”获取更多学习资料

3. $35\div7=5$（分）　$20\div5=4$（个）

答：明明投中了 4 个球。

4.（1）$3\times9=27$（元）　$6\times8=48$（元）

$27+48=75$（元）　$70<75$，

答：70 元不能买 9 枝菊花和 8 枝百合。

（2）买 5 枝百合和 5 枝剑兰一共要花多少钱？

$6\times5=30$（元）　$2\times5=10$（元）

$30+10=40$（元）

答：买 5 枝百合和 5 枝剑兰一共要花 40 元钱。

【点拨】答案不唯一。

六、附加题：

$8-1=7$（个）$4\times7=28$（个）

答：8 个男同学之间一共有 28 个女同学。

【点拨】8 个男同学之间有 7 个间隔，每个间隔有 4 个女同学，一共有 $7\times4=28$（个）女同学。

第八单元　探索乐园

一、1. 10　12

2. 21　24　27

3. 44　36

4. 25　36　【点拨】$1\times1=1$，$2\times2=4$，$3\times3=9$，$4\times4=16$，$5\times5=25$，$6\times6=36$。

5. 3　8　36

6. 9　【点拨】$6-4=2$　$2\times9=18$

7. 4　+4　8　÷4　2

8. 56　15　9　13

【点拨】上面的数是左右两个数的积，下面的数是左右两个数的和。

二、1. ②

2. ③

3. ②　4. ①

三、1.



2.



3.



4.



5.



6.



四、1.



2.



五、1. 8　10　12　14　【点拨】答案不唯一。

2.



（答案不唯一）

六、7　3　4

7　3　5

七、（1）$3\times9=27$（面）

答：主会场的一侧一共插了 27 面红色彩旗。

【点拨】有 9 面彩旗是绿色的说明共有 9 组，每组有 3 面红色彩旗，共有 $3\times9=27$（面）红色彩旗。

（2）$5\times9=45$（面）

答：主会场的一侧一共插了 45 面彩旗。

【点拨】每组有 5 面彩旗，共有 9 组，所以一共有 $5\times9=45$（面）彩旗。

八、附加题

这盏灯是亮着的。

【点拨】拉单数次，灯亮着，拉双数次，灯不亮，题目中明明拉了 7 次开关，是单数次，所以来电后灯是亮着的。

归类培优测试卷

1. 计算

一、1.（1）6　$12\div2=6$（颗）

（2）3　$12\div4=3$（份）

2. $6\times9=54$　$9\times6=54$　$54\div9=6$　$54\div6=9$

3. ＞　＝　＜　＝　＜　＞

4. $30-17+79=92$

$97-(63-28)=62$

5. 2

【点拨】$3\times4=12$，所以★ $=3$；$5\times6=30$，所以○ $=6$，$6\div3=2$。

6. 21　45　72　45

7. 3　3　3　3

4　4　4　4　4

6　6　6　6　6　6

8. 7×8　6×9　$42\div7$　$40\div8$　$36\div9$

$9\div3$

二、1. ③

2. ②

3. ②

4. ①

5. ②

6. ②

7. ③

8. ①

三、1. 32　28　60　15　8　57　36　6　5　1

2. 8　9　7　56

5　6　4　5

3. $27\div9=3$　$5\times7=35$　$72\div8=9$　$32\div4=8$

$9\overline{)27}$　$\times\ 7$　$8\overline{)72}$　$4\overline{)32}$

27　35　72　32

0　0　0　0

4. $100-34-27$

$=66-27$

$=39$

$87-(39+26)$

$=87-65$

$=22$

$36+(51-26)$

$=36+25$

$=61$

5.（1）$\begin{array}{r}47\\+16\\\hline63\end{array}$　（2）$\begin{array}{r}63\\-34\\\hline29\end{array}$　（3）$\begin{array}{r}99\\-53\\\hline46\end{array}$

四、1. 33　25　81

2. $100-26-47=27$（人）

答：儿童有 27 人。

3. $24\div3=8$

答：篮球的价钱是跳绳的 8 倍。

4.（1）小强：$40\div5=8$（个）

小红：$36\div4=9$（个）

$8<9$

答：小红打字快。

（2）$3\times8=24$（个）

答：现在他 8 分钟比原来多打 24 个字。

5. $69-56=13$（岁）　$13+28=41$（岁）

答：爸爸今年 41 岁。

【点拨】因为爷爷今年 69 岁，小亮比爷爷小 56 岁，所以小亮今年 $69-56=13$（岁），又因为爸爸比小亮大 28 岁，所以爸爸今年 $13+28=41$（岁）。

五、附加题：

16

微信公众号
教辅资料站
关注微信公众号“教辅资料站”获取更多学习资料

2. 解决问题

一、1. 69

2. 25 【点拨】46 + 29 = 75（元），100 − 75 = 25（元）。

3. 30

4. 63

5. 4

6. 21 【点拨】36 − 25 = 11（岁），11 + 10 = 21（岁）

7. 2 3

8. 8 【点拨】25 ÷ 5 = 5（段）5 − 1 = 4（次）2 × 4 = 8（分钟）

二、1. ③

2. ③

3. ①

4. ③ 【点拨】5 + 6 + 1 = 12（个），还需要再加上扮演老鹰的小朋友，所以一共有 12 + 1 = 13（个）小朋友在玩老鹰捉小鸡的游戏。

5. ② 6. ③ 7. ② 8. ①

三、1. 38 + 13 + 38 = 89

2. 4 24 ÷ 6 = 4

四、1. 7 × 2 = 14（块）

答：明明原来有 14 块巧克力。

2. 28 + 8 = 36（袋）

90 − 28 − 36

= 62 − 36

= 26（袋）

答：第二天卖了 36 袋，北国超市里还剩下 26 袋大米。

3.（1）28 ÷ 7 = 4（米）

答：平均每件上衣用了 4 米布。

（2）4 × 9 = 36（米）

答：要用 36 米布。

4. 36 ÷ 9 = 4（只）

答：公鸡有 4 只。

5.（1）5 × 9 = 45（元）

答：买 9 根跳绳需要 45 元钱。

（2）54 ÷ 9 = 6

答：一盒巧克力的价钱是一个文具盒价钱的 6 倍。

（3）6 × 7 = 42（元）

42 > 40

答：40 元钱不够。

6. 6 × 8 = 48（元）

48 + 9 = 57（元）

答：他们买门票一共需要 57 元钱。

五、附加题：

8 − 1 = 7（盆）

7 × 4 = 28（盆）

答：一共需要 28 盆花。

3. 几何与统计

一、1. ③

2. ③

3. ③

二、1. ① A. 锐角 ④

② B. 直角 ⑤

③ C. 钝角 ⑥

2. 

3. 

4. 画一画略（1）钝 （2）锐

5.（1）□（2）□（3）○

6. 7 2 1

10 4 2

三、1.（1）6 3 5

（2）14 火车

2.（1）正 下 8

正 一 6

下 3

丁 2

（2）略

（3）① 喜羊羊 小灰灰

②5 ③2

3.（1）正 正 正下 下

（2）20 小白兔 小鸽子

（3）略

四、附加题：

涂一涂略。第 30 颗珠子应该是白色的。

综合培优测试卷

1. 期末测试卷（一）

一、1. 7 5 5 + 5 + 5 + 5 + 5 + 5 = 35 7 × 5 = 35 5 × 7 = 35

2. 100 −（51 + 29）= 20

3.（1）3 24 （2）3 3 9（（2）题部分答案不唯一）

4. 23 4 × 5 + 3 = 23（个）

5. < < = > = <

6. 1

7. 红 白

8. 锐角 钝角 直角

9.（1） 2 1

【点拨】16 ÷ 2 = 8 8 ÷ 2 = 4 4 ÷ 2 = 2 2 ÷ 2 = 1

（2）13 21

【点拨】1 + 2 = 3 2 + 3 = 5 3 + 5 = 8 5 + 8 = 13 8 + 13 = 21

（3）△ ▭ □ ○

10. 6 7

【点拨】48 ÷ 8 = 6（岁），48 + 1 = 49（岁），6 + 1 = 7（岁），49 ÷ 7 = 7。

二、1. ① 2. ② 3. ③ ① ② 4. ③

5. ③

6. ③ 【点拨】①有的乘法口诀只能写出一道乘法算式，如六六三十六，只能写出 6 × 6 = 36。

②角的大小和角的两条边的长短无关，与两条边张开的大小有关。

7. ①

三、1. 42 34 8 75 5 85 7 32 54 9

2. 56 7 6（竖式略）

3. 100 − 26 + 19

= 74 + 19

= 93

84 −（39 + 26）

= 84 − 65

= 19

78 − 18 − 29

= 60 − 29

= 31

四、1. □□ □□ □□ □□

○○ ○○

2. 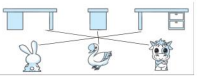

五、1. 24 ÷ 3 = 8（元） 64 ÷ 8 = 8（本）

答：能买 8 本这样的笔记本。

2.（1）45 ÷ 9 = 5（人）

教辅资料站
关注微信公众号“教辅资料站”获取更多学习资料

答：小汽车上能坐 5 人。

（2）$8\times6=48$（人）　$50>48$

答：6 辆小客车坐不下。

3. $80-24-39$

$=56-39$

$=17$（双）

答：还剩 17 双。

4.（1）正正丅　正丅　正

（2）12　7　5

（3）略

六、附加题：

$2+3-1=4$（人）　$4\times6=24$（人）

答：一共有 24 人去秋游。

2. 期末测试卷（二）

一、1. 圆柱　球　长方体　圆柱

2. 27　3. 1　2　4. 3　6

5. 7×4　6×4　【点拨】也可以写成 3×8。

6. 6　8　4　7. 锐　钝　8. 48

9. 9　46　【点拨】左下角算式的乘积等于右上角算式的差。

10. 3　4　9

二、1. ②　2. ②　3. ③　4. ③

5. ①　【点拨】$6-2=4$（岁）$30-2=28$（岁），$28\div4=7$

6. ①　【点拨】$8-1=7$（次）$5\times7=35$（分钟）

7. ①　8. ③

三、1. 48　25　7　24　18

80　9　21　8　58

2. 27　6　30（竖式略）

3. $100-28+19$

$=72+19$

$=91$

$66-(54-26)$

$=66-28$

$=38$

$34+11+35$

$=45+35$

$=80$

四、1.



2. 略　3. 略

五、1. $72-26+17$

$=46+17$

$=63$（辆）

答：现在停车场上有 63 辆汽车。

2. 画图略 $7\times4=28$（块）

答：一共铺了 28 块地砖。

3.（1）$7\times9=63$（元）

答：买 9 支钢笔需要 63 元。

（2）$8\div2=4$

答：故事书的价钱是羽毛球价钱的 4 倍。

（3）$15\div5=3$（根）

答：用 15 元钱刚好可以买 3 根跳绳。

【点拨】答案不唯一。

（4）买 5 本故事书需要多少元？

$8\times5=40$（元）

答：买 5 本故事书需要 40 元

【点拨】答案不唯一。

六、附加题：

$5\times2=10$（千克）　$10+10=20$（千克）

答：这袋大米原来有 20 千克。

【点拨】这是一道倒推问题，可以画图帮助理解题意。

荣德基 好卷

参考答案及点拨

二年级 数学 上（JJ版）（微卷）

核心考点突破卷

1. 观察物体

一、1. 小红　小萍　小军

2.（1）正方　正方

（2）A

（3）B

（4）右

3. 上　右

4. ④　③　②　①

二、1.

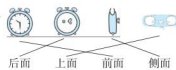

2.

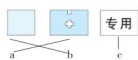

3.



三、4　6

2　【点拨】小红看到的是 4 的对面，所以是 2；小芳看到的是 5 的对面，所以是 6。

四、1. 前面　侧面　上面

2. 上面　前面　侧面

3. 侧面　前面　上面

2. 加减混合运算的计算

一、1. 加　减　29

2. 23

3. $27+(65-40)=52$　　$93-35-46=12$

4. $19-18+16=17$　【点拨】此题答案不唯一。

二、1. ③　2. ①　3. ③

4. ①　【点拨】不计算可以看出，加的数大，减的数小，所以最后的得数比 64 要大。

三、1.

$$\times\begin{array}{r}72\\-\ 38\\\hline 34\\+\ 15\\\hline 49\end{array}\qquad\times\begin{array}{r}60\\-\ 21\\\hline 39\\-\ 20\\\hline 19\end{array}$$

2. $93-35-23=35$

$$\begin{array}{r}93\\-\ 35\\\hline 58\\-\ 23\\\hline 35\end{array}$$

$30+18+44=92$

$$\begin{array}{r}30\\+\ 18\\\hline 48\\+\ 44\\\hline 92\end{array}$$

$87+13-27=73$

$$\begin{array}{r}87\\+\ 13\\\hline 100\\-\ 27\\\hline 73\end{array}$$

$72-37+25=60$

$$\begin{array}{r}72\\-\ 37\\\hline 35\\+\ 25\\\hline 60\end{array}$$

3. $98-(38+56)$

$=98-94$

$=4$

$81-15-29$

$=66-29$

$=37$

$100-63+45$

$=37+45$

$=82$

$54+37+9$

$=91+9$

$=100$

4. 27 分　22 分　94 分

5. +　−　−　+　+　−

6. 17　【点拨】$100-45-38=17$。

36　【点拨】$85-29-20=36$。

32　【点拨】$55-15=40$，$72-40=32$。

微信公众号 教辅资料站
关注微信公众号"教辅资料站"获取更多学习资料

四、

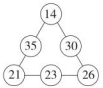

【点拨】每条线上有三个数，下面一条线上已知两个数，所以可以先算出左下角的数：70－23－26＝21；再根据左边斜着的一条线算出上面角上的数；70－21－35＝14；最后计算右边线上中间的数：70－14－26＝30。

3. 加减混合运算的应用

一、1. 23

2. 60　22

3. 40　【点拨】12＋29－1＝40（个），从前面数和从后面数的时候把小明数了 2 次，多数了 1 次，所以要减 1。

二、1. ③

2. ②　【点拨】24＋8＋24＝56（只）

3. ①

4. ②

三、1.



2. 100－（25＋16）　　86－61－17

＝100－41　　＝25－17

＝59　　＝8

76－7＋25　　47＋19＋23

＝69＋25　　＝66＋23

＝94　　＝89

四、1. 29＋26＋32

＝55＋32

＝87（个）

答：兔妈妈和兔宝宝们共拔了 87 个萝卜。

2.（1）34＋27－49

＝61－49

＝12（元）

答：买一个篮球和一个排球比买一个足球多花 12 元。

（2）34＋27＝61（元）

100－61＝39（元）

答：他买的是篮球和排球。

【点拨】100 减三十多等于六十多，所以轩轩花了六十多元，只有篮球和排球的价钱加起来是六十多元。

3.（1）100　小鸭　小狗　小猴

（2）56　小兔　小熊　小鹅

（3）豆豆有两次分别套中了小熊和小鹅，有一次没有套中。

4. 乘法的初步认识

一、1. 3＋3＋3＋3＝12　3×4＝12　4×3＝12

2. 6　6　8　8　8

15　15　15　15

3. 5×6　　9×5

不能直接改写　　不能直接改写

4. 6　3　18

6＋6＋6＝18　6×3＝18

3　6　18

3＋3＋3＋3＋3＋3＝18　3×6＝18

5. 20　9

6. 4　4　6　5　5　4　6　3　（最后一题答案不唯一）

二、1. ②　2. ②

三、1.

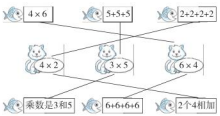

2.（1）☆☆☆☆　☆☆☆☆

（2）☆☆　☆☆　☆☆　☆☆　☆☆

3. 4＋5　　4×5



【点拨】答案不唯一，学生只要画的意思对就可以。4＋5 表示 4 和 5 合起来是多少，4×5 表示 5 个 4（或 4 个 5）是多少。

四、1. 2　4　8　2.（移一移略）6　6　3　18

5. 2～6 的乘法口诀

一、1. 三四十二

2. 五六　二十　六　一　六　四六

3. 3×6＝18　6×3＝18　4. ＞　＜　＝　＝

5. 7　【点拨】3 个相同的数相加等于 15，只有 3 个 5 的和是 15，所以△＝5，所以□＝12－5＝7。

二、1. ①　2. ③　3. ③　4. ③　5. ②

三、1. ×　＋或×　×　＋

－　×　×　×

2. 1　6　2　4　4　2　6（最后 2 个答案不唯一）

3. 6×4＝24　4×3＋3＝15 或 4×4－1＝15

四、1.（1）4×3＝12（元）

答：买 3 条毛巾 12 元。

（2）6×2＝12（元）　12 元＞10 元

答：10 元买 2 辆玩具车不够。

2. 6×3＝18（个）　18＋2＝20（个）

答：他们一共投中了 20 个球。

3. 6－1＝5（个）

6×5＝30（米）

答：经过了 30 米。

【点拨】第 1 棵树与第 6 棵树之间有 5 个间隔，每个间隔是 6 米，5×6＝30（米），所以第 1 棵树与第 6 棵树之间相距 30 米。

6. 角的认识

一、1. 无数

2. 4

3. 3

4. 钝

5. 3　9

6. 2　4

二、1. ①　2. ③　3. ③　4. ②　5. ③

三、1.（1）③⑤⑩　④⑪⑮　①⑧⑭

（2）②⑥⑦⑨⑫⑬

2.



3. 3　8　2　6

关注微信公众号“教辅资料站”获取更多学习资料

四、亮亮说的不对。因为所有的直角都相等，所以黑板上的直角和数学书上的直角相等。

7. 除法的初步认识

一、1. 平均分　2. 3　12　4　3

3. $15 \div 3 = 5$

4. 5　10　2　5　10 除以 2 等于 5

5. $12 \div 6 = 2$　$6 \div 3 = 2$

【点拨】此题答案不唯一。

二、1. ③　2. ③

三、1. √　×　×　×　√

2. (1) 6　6



(2) 16　4



3. (1) 3　3　(2) 2　6

4. (圈法不唯一)



四、1. (1) 2　(2) 1

【点拨】(1) $14 - 2 = 12$（个），$12 \div 4 = 3$（个）。

(2) $14 + 1 = 15$（个），$15 \div 3 = 5$（个）

2. 有 3 种分法。每人分 3 面，可以分给 5 人；每人分 5 面，可以分给 3 人；每人分 1 面，可以分给 15 人，(画一画略)

3. 略

8. 用 2～6 的乘法口诀求商

一、1. 2　二六十二　6　四六二十四

3　一三得三

2. $3 \times 4 = 12$，$4 \times 3 = 12$，$12 \div 3 = 4$，$12 \div 4 = 3$

3. 5　4　4. −　+　÷　×

5. 18　【点拨】因为 $12 \div 6 = 2$，$18 \div 6 = 3$，所以这堆糖最多有 18 块。

6. $30 \div 6 = 5$　$30 \div 5 = 6$

7. 3　5　3　4　6　12

二、1. (1) 15　(2) $15 \div 5 = 3$　(3) $15 \div 3 = 5$

2. (1) 5　$10 \div 2 = 5$（份）

(2) 2　$10 \div 5 = 2$（份）

3. $2 \times 6 = 12$　$12 \div 2 = 6$　$12 \div 6 = 2$

4. $5 \times 4 = 20$　$4 \times 5 = 20$　$20 \div 4 = 5$　$20 \div 5 = 4$

三、1. $24 \div 4 = 6$

答：可以分组放到 6 栋楼下面。

2. $5 + 1 = 6$（人）　$18 \div 6 = 3$（本）

答：每人能分到 3 本。

3. (1) $10 \div 2 = 5$（把）

答：用 10 元钱能买 5 把尺子。

(2) $15 \div 3 = 5$（支）

答：用 15 元钱可以买 5 支钢笔。

(3) 用 5 元钱可以买几块橡皮？

$5 \div 1 = 5$（块）

答：用 5 元钱可以买 5 块橡皮。

【点拨】此题答案不唯一。

9. 象形统计图和统计表

一、1. (1)

正方形	三角形	圆
○	○	○
○	○	○
○	○	○
○	○	○
○	○	○
○	○	○
○	○	○
○		
○		
○		

(2)

正方形	三角形	圆
正	正	正
正	丁	丁

2. 10　7　7　24

二、1. 16　13　5　7

2. 41

三、1.

晴天	正正丁
雨天	正丁
阴天	正正

2. 12　8　10

3. 晴　雨

四、1. 正正　丁　13　正正正丁　17

2. 黑球：$30 - 13 = 17$（个）

白球：$30 - 17 = 13$（个）

答：盒子里还剩下 17 个黑球，13 个白球。

10. 7、8、9 的乘法口诀

一、1. 7　6　42

2. 16　64

3. 9　18　36

4. =　>　=

5. 3

6. 5　7　9

7. 16

二、1. ②　2. ③　3. ②　4. ③

5. ②

三、1. 5　5　8　5

2. $7 \times 8 = 56$　$9 \times 3 = 27$　$4 \times 7 = 28$

$$\begin{array}{r} 7 \\ \times\ 8 \\ \hline 56 \end{array} \qquad \begin{array}{r} 9 \\ \times\ 3 \\ \hline 27 \end{array} \qquad \begin{array}{r} 4 \\ \times\ 7 \\ \hline 28 \end{array}$$

$8 \times 2 = 16$　$6 \times 9 = 54$

$$\begin{array}{r} 8 \\ \times\ 2 \\ \hline 16 \end{array} \qquad \begin{array}{r} 6 \\ \times\ 9 \\ \hline 54 \end{array}$$

3. $7 \times 7 > 6 \times 6 > 3 \times 7 > 3 \times 6 > 7 \times 2$

4. 5　9　7（答案不唯一）

四、1. $9 \times 4 = 36$（页）

答：这本书有 36 页。

2. $1 + 3 = 4$（人）　$7 \times 4 = 28$（元）

$30 > 28$

答：他们的钱够买门票。

五、5　4

11. 用 7、8、9 的乘法口诀求商

一、1. 5　45 除以 9 等于 5　45　9　5

2. (1) 6　$12 \div 2 = 6$（袋）

(2) 4　$12 \div 3 = 4$（袋）

(3) 3　$12 \div 4 = 3$（袋）

(4) 2　$12 \div 6 = 2$（袋）

3. 56　7　42　9　30　16

4. 8　7　6　5

5. 4　6

二、1. ②　2. ②　3. ②　4. ③

关注微信公众号“教辅资料站”获取更多学习资料

三、1.

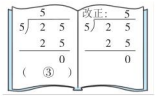

2.

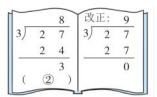

四、48 ÷ 8 = 6　　14 ÷ 7 = 2

$$\begin{array}{r} 6 \\ 8\overline{)\,4\;8} \\ 4\;8 \\ \hline 0 \end{array}$$

$$\begin{array}{r} 2 \\ 7\overline{)\,1\;4} \\ 1\;4 \\ \hline 0 \end{array}$$

72 ÷ 9 = 8　　40 ÷ 5 = 8

$$\begin{array}{r} 8 \\ 9\overline{)\,7\;2} \\ 7\;2 \\ \hline 0 \end{array}$$

$$\begin{array}{r} 8 \\ 5\overline{)\,4\;0} \\ 4\;0 \\ \hline 0 \end{array}$$

五、1.（1）12 ÷ 4 = 3（盒）

答：每班分 3 盒。

（2）12 ÷ 2 = 6（个）

答：可以分给 6 个班。

2. 15 + 21 = 36（个）　36 ÷ 6 = 6（个）

答：每个袋子里有 6 个苹果。

3. 漫画书：

7 × 7 = 49（元）　49 < 50

故事书：

5 × 9 = 45（元）　45 < 50

科幻书：

6 × 8 = 48（元）　48 < 50

答：能买 7 本漫画书，5 本故事书，8 本科幻书。

12. 倍的认识

一、1. 9　2.（1）4　（2）2　3. 10　4　9

4. 35　【点拨】因为 30 至 40 之间 7 的倍数只有 35，所以白珠子有 35 个。　5. 12

二、1. 4　2. 大象　蛇　2

3. 天鹅　大象　4. 猴子　蛇　9　（答案不唯一）

三、1. ○○○○○○○○○

2. □□□□□□□□

3. 第一行移 2 个到第二行

四、1.（1）15 ÷ 3 = 5

答：去年姐姐的年龄是小明的 5 倍。

（2）3 + 1 = 4（岁）

15 + 1 = 16（岁）

16 ÷ 4 = 4

答：今年姐姐的年龄是小明的 4 倍。

2.（1）48 ÷ 6 = 8

答：玩具汽车的价格是玩具飞机的 8 倍。

（2）6 × 4 = 24（元）

答：玩具手枪 24 元。

（3）买一架玩具飞机和一辆玩具汽车，一共需要多少元？

6 + 48 = 54（元）

答：一共需要 54 元。（答案不唯一）

期末冲刺抢分卷

1. 高频考点抢分卷

一、√　×　×　×

二、1. 5　15　3　5　2. 锐　小

3. 6　7　6　3

4. 36

5. 9　【点拨】63 ÷ 7 = 9（元）

三、1.

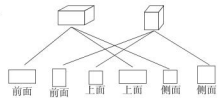

2.



【点拨】每个图形按顺时针顺序旋转到下一格。

四、7 × 9 = 63　　56 ÷ 8 = 7

$$\begin{array}{r} 7 \\ \times\ 9 \\ \hline 6\,3 \end{array}$$

$$\begin{array}{r} 7 \\ 8\overline{)\,5\;6} \\ 5\;6 \\ \hline 0 \end{array}$$

90 −（35 − 23）　　100 − 28 + 12

= 90 − 12　　= 72 + 12

= 78　　= 84

五、1. 75 − 28 − 34

= 47 − 34

= 13（份）

答：还有 13 份订单没有邮走。

2.（1）5 × 7 = 35（页）

答：丫丫看了 35 页。

（2）80 − 35 = 45（页）

答：还剩 45 页没看。

六、1. 6　15　3　12

2. 大象
老虎
熊猫
猴子

3. 老虎　熊猫

4. 36

2. 易错题抢分卷

一、1. 7　7

2. 7 + 7 + 7 + 7 = 28　4 × 7 = 28

3. 减　加

4. 18　3

5. 5　12　19　4

6. 5　3

7. 4　5

8. 49　【点拨】因为 49 = 7 × 7，所以小朋友的数量和每人分得的块数都是 7。

9.

二、1. ②

2. ③　【点拨】锯成 8 段需要锯 7 次，7 × 4 = 28（分钟）。

3. ③

4. ③　【点拨】57 连续减去两个数等于减去这两个数的和。

5. ③　【点拨】7 × 2 = 14（页），即第三天应从第 7 + 14 + 1 = 22（页）开始看。

6. ①　【点拨】56 − 16 = 40（份）　56 + 40 = 96（份）

7. ②

三、1.



2.



（答案不唯一）

教辅资料站
关注微信公众号“教辅资料站”获取更多学习资料

四、1. 100－28－46

=72－46

=26（个）

答：再摘 26 个才够。

2. 36÷4=9（只）

答：白天鹅有 9 只。

3. 常见难题抢分卷

一、1. 正方体　球（答案不唯一）

2. 前面　上面　右面

3. 1　9　3　3　8　2　12　3（部分答案不唯一）4. 14

5. 8　4　7　25　6. 钝　锐　直　钝

二、1. ①　2. ②　3. ①

三、1. ○○○○○○○○

2. 

四、5　3　10

五、1. 36－18=18（个）

36+18=54（个）

答：她们俩一共捡了 54 个贝壳。

2. 5×4=20（页）　20+1=21（页）

答：第 5 天应从第 21 页看起。

3. （1）24÷8=3（元）

答：一双袜子 3 元钱。

（2）24÷6=4

答：一件上衣的价钱是一把伞的 4 倍。

（3）30－24=6（元）

6÷3=2（双）

答：剩下的钱可以买 2 双袜子。

4. 新题型抢分卷

一、1.（1）

56	8
7	

（2）21　24　30　33

2. 5　4　1　27　6　4　3　34

3. 36　【点拨】共有 6 种颜色，且最后一个彩灯正好是紫色的，所以彩灯的总数应该是 6 的倍数，30 至 40 之间（不包括两个端点），只有 36 符合。

二、1. ②　2. ①　③

三、1.（1）68　（2）100

2. 18　42　16　100

3. 22　30　26　24　28（答案不唯一）

4. 

四、1. 3+32=35（名）　4×8+1=33（个）

35>33

答：座位不够。

2. 20÷4=5（条）　5+1=6（条）

答：可以买到 6 条鱼。

3.（1）40÷8=5

答：1 个闹钟的价钱是 1 本漫画书的 3 倍。

（2）买 2 个皮球和 1 本漫画书一共多少钱？

9×2+8=26（元）

答：买 2 个皮球和 1 本漫画书一共 26 元钱。（答案不唯一）

微信公众号 教辅资料站
关注微信公众号“教辅资料站”获取更多学习资料

好卷

微卷
助冲满分

WEIJUAN ZHUCHONG MANFEN

二年级

数学（上）（JJ版）



- 核心考点突破卷（12套）
- 期末冲刺抢分卷（4套）

关注微信公众号“数辅资料站”获取更多学习资料

目录

核心考点 突破卷

1 观察物体 …… 1
2 加减混合运算的计算 …… 3
3 加减混合运算的应用 …… 5
4 乘法的初步认识 …… 7
5 2～6 的乘法口诀 …… 9
6 角的认识 …… 11
7 除法的初步认识 …… 13
8 用 2～6 的乘法口诀求商 …… 15
9 象形统计图和统计表 …… 17
10 7、8、9 的乘法口诀 …… 19
11 用 7、8、9 的乘法口诀求商 …… 21
12 倍的认识 …… 23

方法技能 提升卷

1 高频考点抢分卷 …… 25
2 易错题抢分卷 …… 27
3 常见难题抢分卷 …… 29
4 新题型抢分卷 …… 31

参考答案及点拨（见大卷第 36～40 页）

关注微信公众号“教辅资料站”获取更多学习资料

一、仔细审题，填一填。(每空 2 分，共 28 分)

1. 右面的图形分别是谁看到的？填一填。



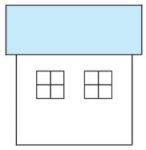

( )

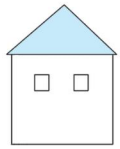

( )



( )

2. 观察下图填空。

(1) 这是一个 ( ) 体，从它的前面、侧面和上面观察，看到的都是 ( ) 形。

(2) 从前面看，看到的字母是 ( )。

(3) 从上面看，看到的字母是 ( )。

(4) 从 ( ) 面看，能看到字母 C。

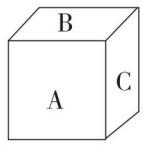

3.  观察左图，从 ( ) 面看到  ，从 ( ) 面看到  。

4. 爸爸拍的是第 ( ) 张照片，妈妈拍的是第 ( ) 张照片，姐姐拍的是第 ( ) 张照片，小强拍的是第 ( ) 张照片。





二、动手操作题。(共 30 分)

1. 连一连。(12 分)



我从不同角度给小闹钟拍了四张照片，请你帮我找一找。





后面



上面



前面



侧面

关注微信公众号“教辅资料站”获取更多学习资料

2. 从 a，b，c 三个角度看这个药箱，看到的分别是什么？连一连。(6 分)

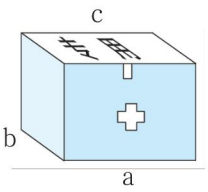

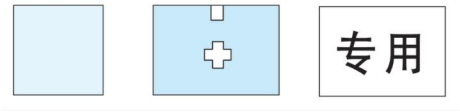

a　　b　　c

3. 小朋友们分别看到的是哪一面？把正确的图形圈起来。(12 分)



三、猜一猜。(15 分)



小刚看到的数字是（　　），小芳看到的数字是（　　），小红看到的数字是（　　）。

四、下面的图形分别是从前面、上面、侧面看到的，请把观察的方向填在括号里。(共 27 分)

1. (9 分) 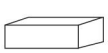


(　　)


(　　)


(　　)

2. (9 分) 


(　　)


(　　)


(　　)

3. (9 分) 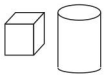


(　　)

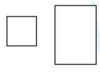
(　　)


(　　)

关注微信公众号“教辅资料站”获取更多学习资料

一、仔细审题，填一填。(1、2题每空2分，第3题6分，第4题3分，共17分)

1. 计算 $70-(23+18)$ 时，要先算（　　）法，再算（　　）法，最后结果是(　　)。

2. 在连减算式中，被减数是71，两个减数都是24，差是（　　）。

3. 把下面每组中的两个算式合并成一个算式。

$65-40=25$
$27+25=52$ } ＿＿＿＿＿＿＿＿

$93-35=58$
$58-46=12$ } ＿＿＿＿＿＿＿＿

4. 把16、17、18、19这4个数填入下面的□里，使等式成立。

□ − □ + □ = □

二、仔细推敲，选一选。(将正确答案的序号填在括号里)(每小题3分，共12分)

1. 这道题错误的原因是（　　）。

①数位没有对齐　　$80-45+26=71$

②没有满十进一　　$\begin{array}{r} 80 \\ -45 \\ \hline 45 \end{array}$　　$\begin{array}{r} 45 \\ +26 \\ \hline 71 \end{array}$

③没有退位

2. 比32与19的差多48的数是（　　）。

① 61　　② 52　　③ 51

3. 下面各组算式得数相等的是（　　）。

① $45-26-17$　　$45-(26-17)$

② $73-23+6$　　$73-(23+6)$

③ $22+23+18$　　$22+(23+18)$

4. 64先加上36，再减去35，得数（　　）。

① 大于64　　② 小于64　　③ 等于64

三、细心的你，算一算。(共65分)

1. 先判断对错，再改正。(每小题6分，共12分)

$\begin{array}{r} 72 \\ -38 \\ \hline 44 \\ +15 \\ \hline 59 \end{array}$（　　）　改正：

$\begin{array}{r} 60 \\ -21 \\ \hline 41 \\ -20 \\ \hline 21 \end{array}$（　　）　改正：

关注微信公众号“教辅资料站”获取更多学习资料

2. 列竖式计算。(每小题 4 分，共 16 分)

93 − 35 − 23 =　　30 + 18 + 44 =　　87 + 13 − 27 =　　72 − 37 + 25 =

3. 脱式计算。(每小题 4 分，共 16 分)

98 − (38 + 56)　　100 − 63 + 45　　81 − 15 − 29　　54 + 37 + 9

4. 熊大、熊二和光头强进行套圈比赛，这是它们的记录单，吉吉国王不小心给弄湿看不清了，你能帮它们填上看不清的数据吗？(9 分)

	第一次	第二次	第三次	合计
光头强	26 分	34 分		87 分
熊 大	38 分		25 分	85 分
熊 二	21 分	41 分	32 分	

5. 在○里填上“ + ”或“ − ”，使等式成立。(每空 1 分，共 6 分)

51 − 8 ○ 40 = 83　　41 + 49 ○ 27 = 63

45 ○ 19 ○ 16 = 42　　58 ○ 18 ○ 21 = 55

6. (　　) 里应该填几？(每小题 2 分，共 6 分)

45 + 38 + (　　) = 100　　85 − 29 − (　　) = 20　　72 − (　　) + 15 = 55

四、在○里填数，使每条线上的三个数的和是 70。(6 分)

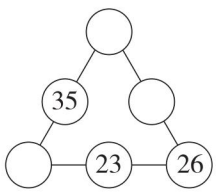

未德基好卷

关注微信公众号“数辅资料站”获取更多学习资料

一、仔细审题，填一填。(每空 4 分，共 16 分)

1. 妈妈的支付宝余额里正好还有 100 元，去超市买菜用去 32 元，买日用品用去 45 元，还剩（　　）元。
2. 二（1）班同学做了 82 朵花，送给二（2）班 22 朵，又送给二（3）班 38 朵，一共送出（　　）朵，现在还剩（　　）朵。
3. 同学们站成一竖列，从前面数小明排在第 12 个，从后面数小明排在第 29 个，一共有（　　）个同学。

二、仔细推敲，选一选。(将正确答案的序号填在括号里) (每小题 4 分，共 16 分)

1. 学校图书馆新购进 90 本书，同学们第一天借走了 26 本，第二天借走了 34 本，这批书少了（　　）本。

   ① 30　　② 64　　③ 60

2. 动物园里有大猴 24 只，小猴比大猴多 8 只。动物园里共有（　　）只猴子。

   ① 32　　② 56　　③ 65

3. 学校体育馆买来跳绳 86 条，同学们第一天借走 25 条，第二天借走 15 条，还剩（　　）条。

   ① 46　　② 40　　③ 61

4. 王老师买了 16 支钢笔，买的铅笔比钢笔多 6 支。_____？下面问题中，可以解决的是（　　）。

   A. 王老师买了多少支铅笔　　B. 王老师买了多少块橡皮

   C. 王老师一共买了多少支笔　　D. 王老师买的铅笔比彩笔少多少支

   ① A 和 B　　② A 和 C　　③ B 和 D

三、细心的你，算一算。(共 32 分)

1. 小鸟回家。(连一连) (12 分)











关注微信公众号“教辅资料站”获取更多学习资料

2. 脱式计算。(每小题 5 分，共 20 分)

100 −(25 + 16)　　86 − 61 − 17　　76 − 7 + 25　　47 + 19 + 23

四、聪明的你，答一答。(共 36 分)

1. 兔妈妈和兔宝宝们共拔了多少个萝卜？(8 分)



2.


篮球 34 元


排球 27 元


足球 49 元

(1) 买一个篮球和一个排球比买一个足球多花多少元？(7 分)

(2) 轩轩用 100 元钱买了上面的两种球，还剩三十多元钱，他买的是哪两种球？(7 分)

3. 河北省园博园举行迎新年游园活动啦！豆豆的爸爸设计了一个小朋友们都爱玩的套圈游戏。(规则：每人套三次，套不中不得分，不重复套，分数不同有不同的礼物)


小鸭 30 分


小兔 22 分


小熊 18 分


小鹅 16 分


小狗 38 分


小猫 26 分


小猴 32 分

(1) 套中三次，最多可以得 (　　) 分，套中的是 (　　)、(　　)、(　　)。(4 分)

(2) 套中三次，最少可以得 (　　) 分，套中的是 (　　)、(　　)、(　　)。(4 分)

(3) 豆豆套了三次，却得了 34 分，请你分析一下豆豆套中的情况。(6 分)

关注微信公众号“数辅资料站”获取更多学习资料

一、仔细审题，填一填。(第 2 题 3 分，第 6 题 4 分，其余每空 1 分，共 26 分)

1. 

写成加法算式是 (　　)，写成乘法算式是 (　　) 或 (　　)。

2. 把乘法算式改写成加法算式。

$6\times2=$ (　　) + (　　)　$8\times3=$ (　　) + (　　) + (　　)

$15\times4=$ (　　) + (　　) + (　　) + (　　)

3. 下面哪些算式能直接改写成乘法算式？写一写。

$5+5+5+5+5+5=$ (　　)

$9+9+9+9+9=$ (　　)

$7+7+7+6=$ (　　)

$4+4+4+4+4+3-1=$ (　　)

4. 

横着数每排 (　　) 块，有 (　　) 排，一共有 (　　) 块。

加法算式：_____　乘法算式：_____

竖着数每列 (　　) 块，有 (　　) 列，一共有 (　　) 块。

加法算式：_____　乘法算式：_____

5. 5 个正方形有 (　　) 条边，3 个“子”字一共有 (　　) 画。

6. $4\times3+4=$ □ × □　　$6\times6-6=$ □ × □

$5+5+5+3+2=$ □ × □　　$3+6+9=$ □ × □

二、仔细推敲，选一选。(将正确答案的序号填在括号里) (每小题 5 分，共 10 分)

1. $2\times5=10$ 读作 (　　)。

① 2 个 5 是 10　② 2 乘 5 等于 10　③ 2 加 5 等于 10

2. ○○○ + ○○○表示 (　　)。

① 3 个 2 相加　② 2 个 3 相加　③ 3 乘 3

关注微信公众号“教辅资料站”获取更多学习资料

三、按要求做题。（共 44 分）

1. 连一连。（18 分）



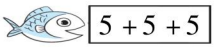

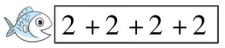









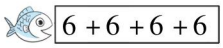

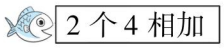

2. 照样子，圈一圈。（每小题 6 分，共 12 分）

5 ×3 ☆☆☆☆☆ ☆☆☆☆☆ ☆☆☆☆☆

（1）4 ×2 ☆☆☆☆☆☆☆☆

（2）2 ×5 ☆☆☆☆☆☆☆☆☆☆

3. 用画图的方法分别表示 4 +5 和 4 ×5。（每小题 7 分，共 14 分）

4 +5

4 ×5

四、聪明的你，答一答。（共 20 分）

1. 每人需要 2 根筷子，一共需要多少根筷子？（10 分）



□ ×□ =□（根）

2. 怎样移动最少的○，使每行○的数量都相同？先移一移，再算一算一共有多少个○。（10 分）

○○○○

○○○○○○

○○○○○○○○

移动后变成每行都有（　　）个○。

列式计算：□ ×□ =□

关注微信公众号“教辅资料站”获取更多学习资料

一、哪种是平均分？是的在（　　）中画“√”，不是的在（　　）中画“×”。(每小题2分，共8分)

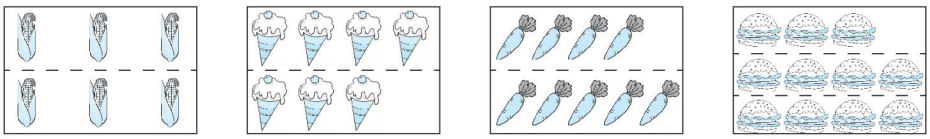

（　　）　（　　）　（　　）　（　　）

二、仔细审题，填一填。(每空2分，共24分)

1. 15个球，平均放在3个筐里，每筐放（　　）个。



（　　）÷（　　）=（　　）(个)

2. 一个直角的两条边的张口变小一些，就形成了一个（　　）角，它比直角（　　）。

3. （　　）里最大能填几？

6×（　　）<40　　50>（　　）×7　　（　　）×8<50　　35>9×（　　）

4. 有一袋橙子，个数比30多，比40少。分的份数和每份的个数同样多，这袋橙子有（　　）个。

5. 一条裙子63元，一条裙子的价钱是一双袜子的7倍。一双袜子（　　）元。

三、动手操作题。(共20分)

1. 下面的图形分别是从哪个长方体看到的？连一连。(12分)

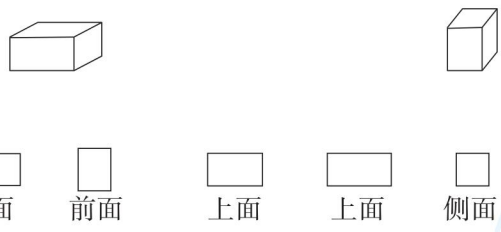

2. 找规律，画一画。(8分)

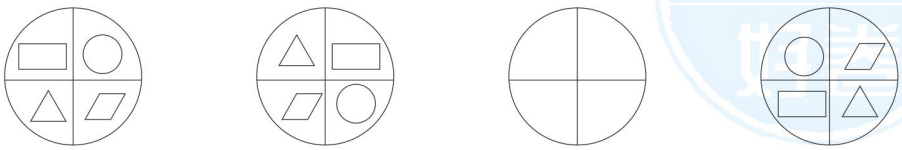

关注微信公众号“教辅资料站”获取更多学习资料

四、我会计算。（前两个用竖式计算，后两个用脱式计算）（每小题 3 分，共 12 分）

$7 \times 9 =$　　$56 \div 8 =$　　$90 - (35 - 23)$　　$100 - 28 + 12$

五、聪明的你，答一答。（共 14 分）

1. 今天王叔叔的网店一共收到了 75 份订单，上午邮走了 28 份订单，下午邮走了 34 份订单，还有多少份订单没有邮走？（6 分）

2. 丫丫看一本 80 页的故事书，她看了 7 天，每天看 5 页。

（1）丫丫看了多少页？（4 分）　　（2）还剩多少页没看？（4 分）

六、我是小小统计员。（共 22 分）

下面是某动物园部分动物的数量情况。



6只



15只



老虎的数量
是熊猫的5倍



猴子的数量
是大象的2倍

1. 完成下面的统计表。（8 分）

动物	大象	老虎	熊猫	猴子
数量（只）				

2. 把表中的数据用不同颜色的色块表示出来。（8 分）

大象

老虎

熊猫

猴子

3. （　　）的只数最多，（　　）的只数最少。（4 分）

4. 四种动物一共有（　　）只。（2 分）

关注微信公众号“教辅资料站”获取更多学习资料

一、仔细审题，填一填。(第 9 小题 2 分，其余每空 2 分，共 36 分)

1. $35 \div 5 = 7$ 表示把 35 平均分成 5 份，每份是 (　　)，也可以表示 35 里面有 (　　) 个5。
2. 求 4 个 7 相加是多少，用加法算式表示是 (　　)，改写成乘法算式是 (　　)。
3. 计算 $45 + (35 - 28)$ 时，先算 (　　) 法，再算 (　　) 法。
4. 有 2 个花瓶，每个花瓶里插 9 枝花，一共有 (　　) 枝花。把这些花平均插在 6 个花瓶里，每个花瓶里插 (　　) 枝。
5. (　　) 里最大能填几?

   (　　) $\times 5 < 27$　　$23 +$ (　　) $< 6 \times 6$

   $50 -$ (　　) $> 5 \times 6$　　$20 \div 4 < 24 \div$ (　　)
6. 每张桌子可以坐 9 人，来吃饭的客人有 45 人，需要 (　　) 张桌子；周六聚会的有 72 人，还需要加 (　　) 张桌子。
7. 49 本书，最少拿走 (　　) 本，就能平均分给 9 个小朋友；最少添上 (　　) 本就能平均分给 6 个小朋友。
8. 有一盒糖，比 40 块多，比 50 块少。把这些糖平均分给几个小朋友，小朋友的数量和每人分得的块数正好一样多。这盒糖有 (　　) 块。
9. 根据珠子的排列规律，把遮挡部分画出来。



二、仔细推敲，选一选。(将正确答案的序号填在括号里) (每小题 3 分，共 21 分)

1. 一只蚊子 6 条腿，一只青蛙 4 条腿，2 只蚊子的腿数等于 (　　) 只青蛙的腿数。

   ① 2　　② 3　　③ 4
2. 把一根木头锯成 8 段，每锯断一次要用 4 分钟，锯完这根木头要用 (　　) 分钟。

   ① 32　　② 36　　③ 28

关注微信公众号“教辅资料站”获取更多学习资料

3. 买一辆 28 元的玩具汽车，至少要带（　　）5 元的人民币。

① 7 张　　② 8 张　　③ 6 张

4. 与 57 − 38 − 10 的结果相同的算式是（　　）。

① 57 −（38 − 10）　　② 57 + 38 − 10　　③ 57 −（38 + 10）

5. 丽丽看一本书，第一天看了 7 页，第二天看的页数是第一天的 2 倍，第三天应从第（　）页开始看。

① 14　　② 21　　③ 22

6. 二（1）班订了《数学报》56 份，比二（2）班多订了 16 份，两个班一共订了（　　）份。

① 96　　② 40　　③ 16

7. 如右图，把一个三角形沿虚线剪去一个角后，还剩（　　）个角。

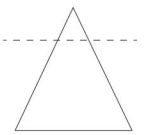

① 3　　② 4　　③ 5

三、动手操作题。（共 19 分）

1. 画一个开口向下的直角。（9 分）

2. 利用一副三角板画出两个不同的钝角。（10 分）

四、聪明的你，答一答。（共 24 分）

1. 松鼠们要摘 100 个松果，小松鼠摘了 28 个，大松鼠摘了 46 个，再摘多少个才够？（13 分）

2. 强强的外婆家附近有一条河，河中生活着 36 只鸭子，还有白天鹅，鸭子的只数是白天鹅的 4 倍。白天鹅有几只？（11 分）

荣德基好卷

关注微信公众号“教辅资料站”获取更多学习资料

期末必备考点大盘点

一. 观察物体（一）



从不同位置观察同一物体，看到的形状一般是不同的。

从不同位置观察物体

从前面、侧面和上面观察几何体



从不同位置观察几何体，看到的形状可能相同，也可能不同。



二. 加减混合运算

28+34+22
=62+22
=84

2 8
3 4
+ 2 2
8 4

连加

连减、认识小括号

84−40−26
=44−26
=18

8 4
− 4 0
4 4
− 2 6
1 8

84−（40+26）
=84−66
=18

先算括号里面的

85−46+22
=39+22
=61

8 5
− 4 6
3 9
+ 2 2
6 1

加减混合运算

解决问题

总钱数减去购物后剩下的钱数就是花去的钱数，然后根据花去的钱数猜测可能购买的物品。

三. 表内乘法（一）

加法：4+4+4=12
↓ 3个4
乘法：3×4=12
4×3=12

4 × 3 = 12
乘数 乘号 乘数 积
读作：4乘3等于12

认识乘法

2~6的乘法口诀

注意口诀和算式的区别



四. 角的认识



角有一个顶点和两条边。



角的大小与角的两边张开的程度有关，与所画边的长短无关。



画角：
从一个点起，用直尺向不同的方向画两条笔直的线，就画成了一个角。

认识角

认识直角、锐角和钝角



用三角板画直角。



五. 表内除法（一）

每份分得“同样多”。

平均分

20 ÷ 5 = 4
被除数 除号 除数 商

认识除法

用2~6的乘法口诀求商

6÷2=3　6÷3=2
口诀：二三得六

12÷3=4　12÷4=3
口诀：三四十二

六. 象形统计图和统计表



象形统计图和统计表

用不同的方式表示和整理简单数据



用画“正”字的方法整理数据



七. 表内乘法和除法（二）



8×3=24
3×8=24
口诀：三八二十四

7~9的乘法口诀

认识除法竖式

除数 …… 9) 3 6 …… 商
3 6 …… 被除数
0 …… 9×4的积

倍的认识

☆☆
□□ □□ □□ □□
□是☆的4倍。

36÷9=4　36÷4=9
口诀：四九三十六

用7、8、9的乘法口诀求商

八. 探索乐园

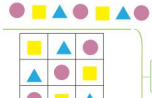

探索图形的排列规律

22	23	24
32	33	34
42	43	44



探索图中各数和数列的规律

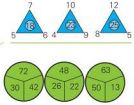

关注微信公众号“教辅资料站”获取更多学习资料

关注荣德基教育微官网，获取海量学习资源。
荣德基教育微官网：http://www.rongdeji.cn
荣德基天荣旗舰店：http://rongdeji.tmall.com
© 客服热线：182 1089 5892

图书在版编目（CIP）数据

好卷：JJ版，二年级数学，上 / 荣德基主编，—长春：吉林教育出版社，2012.5（2021.5 重印）
ISBN 978-7-5383-6271-6

Ⅰ.①好… Ⅱ.②荣… Ⅲ.①小学数学课一习题集 Ⅳ.①G624

中国版本图书馆 CIP 数据核字（2012）第 093531 号

好卷·二年级数学上（JJ版）
HAOJUAN · ER NIANJI SHUXUE SHANG (JJ BAN)

荣德基 主编　　本册主编 赵蓉蓉

责任编辑 朱 林　　封面设计 燕点瑞泰
责任审校 张 祎

出版 吉林教育出版社（长春市同志街 1991 号 邮编 130021）
发行 吉林教育出版社
印刷 衡水吴天弘业印务有限公司

开本 880 毫米×1 240 毫米 1/8 印张 7 字数 114 千字
版次 2012 年 5 月第 1 版
印次 2021 年 5 月第 10 次印刷
定价 34.90 元

如有印装质量问题，请到所购图书销售部门联系调换。

声明 在图书编辑过程中，我们参考并引用了部分资料。有部分文字及图片的作者请本部尊重版权，相关图书，敬请联系作者及时与我们联系，以便我们及时调整。

大卷全程培优　微卷助冲满分







定价：34.90元

二年级 数学 上（JJ版）

关注微信公众号"教辅资料站"获取更多学习资料