教辅资料站
电子教辅　试卷练习
知识总结　备课资源
扫码关注获取更多学习资料

大卷

大卷全程培优　微卷助冲满分

好卷

DAJUANQUANCHENGPEIYOU WEIJUANZHUCHONGMANFEN

大卷全程培优　单元培优 测试卷(9套)　归类培优 测试卷(4套)　期中(末)培优 测试卷(3套)

微卷助冲满分　核心考点 突破卷(12套)　方法技能 提升卷(4套)

本册主编：夏　炎



2数学 年级(上)(BS版)

时代出版传媒股份有限公司
安徽教育出版社

海量资源 “一码”搞定



教师专属福利

让您教学更轻松

1. **PPT版教学课件**“预、授、练、考”全环节，个性可改。
2. **点典教案** PDF版和Word版。
3. **备课资料包** 图文资料、音视频素材、拓展阅读、说课稿，一应俱全。
4. **课文朗读音视频**
5. **听力测试音频**
6. **Word版试题库**《典中点》《好卷》中好题新题任你用。

惊喜活动等您来

7. **荣德基图书免费领** 样书直接到您手。
8. **反馈问题得好礼** 反馈图书质量问题，荣德基图书免费用。
9. **分享资源得好礼** 邀您投递研究成果、优质资源、好题好卷，惊喜回报等您拿。
10. **诚邀加盟** 有机会加盟中国品牌创新发展工程推荐品牌《点拨》《典中点》编委会。

学生·家长助力服务

1. **重难知识微课** 识字微课、阅读微课、习作微课、口语交际微课、方法微课。
2. **《典中点》“极速提分法”习题微课**
3. **《好卷》附加题精讲微课**
4. **写字微课** 笔顺笔画演示、写字方法指导。
5. **音视频** 课文朗读、词语报听写、推荐阅读。

好卷 = 《大卷》+《微卷》

大卷全程培优 微卷助冲满分

不是所有的试卷都叫“好卷”，期末提分才是硬道理！

大卷 同步培优卷

✦ 单元培优测试卷

第一单元 加与减 …… 1
第二单元 购物 …… 3
第三单元 数一数与乘法 …… 5
第四单元 图形的变化 …… 7
第五单元 2~5的乘法口诀 …… 9
期中测试卷 …… 11
第六单元 测量 …… 13
第七单元 分一分与除法 …… 15
第八单元 6~9的乘法口诀 …… 17
第九单元 除法 …… 19

✦ 归类培优测试卷

1. 计算 …… 21
2. 解决问题 …… 23
3. 图形与几何 …… 25
4. 易错题 …… 27

✦ 综合培优测试卷

1. 期末测试卷（一） …… 29
2. 期末测试卷（二） …… 31

微卷 专项拔尖卷

✦ 核心考点突破卷 可阶段或期末用

1. 连加、连减、加减混合运算 …… 01
2. 用100以内的加减法解决简单问题 …… 03
3. 人民币的认识及简单计算 …… 05
4. 初步认识乘法 …… 07
5. 图形的变化 …… 09
6. 2~5的乘法口诀 …… 11
7. 厘米和米的认识 …… 13
8. 平均分与除法 …… 15
9. 用2~5的乘法口诀求商及应用 …… 17
10. 认识“倍”及解决与倍数有关的问题 …… 19
11. 6~9的乘法口诀及应用 …… 21
12. 用乘、除法解决简单问题 …… 23

✦ 方法技能提升卷 期末用

1. 巧填数或等式 …… 25
2. 购物付钱的技巧 …… 27
3. 乘法口诀的灵活运用 …… 29
4. 用数形结合法解决平均分、倍数问题 …… 31
5. 动手操作能力 …… 33
6. 提取有效信息提出问题、解决问题 …… 35

大卷答案▶见大卷第33~37页 / **微卷答案**▶见大卷第37~40页

微信公众号 教辅资料站

关注微信公众号“教辅资料站”获取更多学习资料

荣德基 好卷

单元培优测试卷

第一单元 加与减

2年级 数学 上（BS版）

错题本

时间：60分钟　满分：100分+10分

题号	一	二	三	四	挑战题	总分
得分						

姓名　学号　班级　学校　密　线　封

一、仔细审题，填一填。（每空1分，共21分）

1. （1）比35多28的数是（　　），比82少14的数是（　　）。
（2）计算86－23＋18时，要先算（　　）法，得（　　）；再算（　　）法，得（　　）。

2. 照样子填数。



3. 在○里填上“＞”“＜”或“＝”。

27＋38＋48 ○ 27＋48＋38　　79－25－35 ○ 79－65

35＋12－38 ○ 35＋12＋38　　64－52＋27 ○ 64＋27－52

4. 公交车上原来有50人，在中途停靠站时，有37人下车，28人上车。公交车上少了（　　）人，这时公交车上有（　　）人。

5. 一共有68张桌子，亮亮搬走26张，云云搬走35张。26＋35是求（　　），35－26是求（　　），68－26－35是求（　　）。

6. 欢欢是个节俭的孩子，她攒了38元零花钱，兰兰攒的钱比欢欢多9元，兰兰攒了（　　）元。学校搞“爱心募捐”活动，她俩把攒的钱都捐了，一共捐了（　　）元。

二、仔细推敲，选一选。（将正确答案的序号填在括号里）（每小题2分，共10分）

1. 下面四个算式都有一个数字看不清，得数一定比40大的有（　　）个。

10＋2☆　　24＋2☆　　18＋1☆　　☆2－23

① 4　　② 1　　③ 2

2. 小粗心这样算，错在（　　）。

$$\begin{array}{r} 36 \\ 28 \\ +19 \\ \hline 73 \end{array}$$

① 忘记加进位数　② 个位计算错　③ 进位数不对

3. 妈妈去商场购物，第一次付给售货员100元，找回59元，第二次正好付22元，妈妈一共花了多少元？列式正确的是（　　）。

① 100－59＋22　② 100－59－22　③ 100＋59－22

4. 涛涛有50元钱，买笔用去18元，买书用去31元，那么18＋31表示（　　）。

① 涛涛剩下多少钱

② 涛涛共用去多少钱

③ 涛涛原来有多少钱

5. 张老师买了38个练习本，27个笔记本。下列问题中不能解决的是：（　　）

① 一共买了多少个？

② 一共多少钱？

③ 买的笔记本比练习本少多少个？

三、细心的你，算一算。（共35分）

1. 直接写出得数。（每小题1分，共8分）

59－6＝	27＋3＝	20＋55＝	5＋23＝
70－3＝	42＋8＝	13＋20＝	59－50＝

2. 用竖式计算。（每小题3分，共18分）

28＋46－25＝　　100－64－18＝　　39＋23＋32＝

77－58＋31＝　　6＋85－49＝　　93－27－35＝

3. 寻宝。（每空1分，共9分）

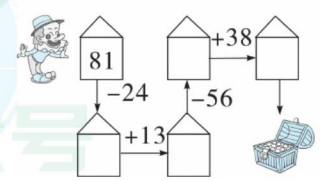

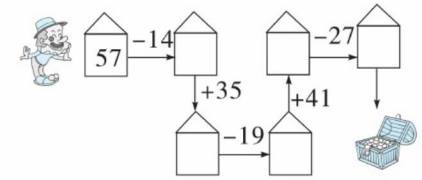

温馨提示：请不要在密封线内答题哦！

关注微信公众号“教辅资料站”获取更多学习资料

四、聪明的你，答一答。（共 34 分）

1. 为了提高人们文明出行的意识，南京路小学“小交警”志愿者向行人发“文明出行”宣传资料，上午发了 28 份，下午比上午多发 16 份，下午发了多少份？这天共发了多少份？（6 分）

2. 套圈游戏。（图中单位：分）

（1）张青套中了小兔和熊猫，她得了多少分？（3 分）



（2）王强套中了小猫、小鸭和大象，他得了多少分？（3 分）

3. 小朋友们写防疫注意事项的卡片。



（1）第一小组和第二小组一共写了多少张？（4 分）

（2）请你再提出一个数学问题并解答。（4 分）

4. 走进书店。

（1）给你 90 元，你想买哪两本书？还剩多少元？（3 分）



（2）买哪几本书正好需要花 100 元？（3 分）

5. 为了稳住老顾客，某通讯公司实行积分兑换话费活动。下面是王老师、李老师、刘老师 7 ~ 9 月兑换话费的情况。

	7 月兑换话费	8 月兑换话费	9 月兑换话费	总共兑换话费
王老师	28 元	19 元		68 元
李老师	16 元		24 元	65 元
刘老师	23 元	31 元		

（1）王老师 9 月兑换话费多少元？李老师 8 月兑换话费多少元？（4 分）

（2）刘老师 7 ~ 9 月兑换的话费是他们三人中的第二名（无并列情况），他总共兑换话费多少元？9 月可能兑换话费多少元？（4 分）

★挑战题：天才的你，试一试。（10 分）

安安和巧巧进行投飞镖比赛，每人 3 次。巧巧要想获胜，第 3 次至少要得多少分？

挑战题微课堂

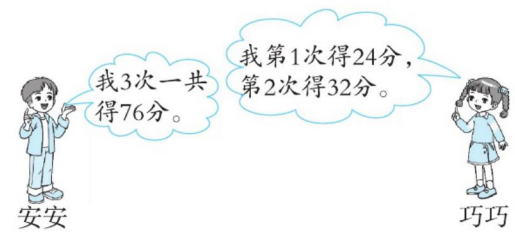

自己说说

老师点评

家长点评

密 线 封

家庭教辅报 微信公众号 教辅资料站
关注微信公众号“教辅资料站”获取更多学习资料

荣德基 好卷

单元培优测试卷

第二单元 购物

2年级 数学 上（BS版）

错题本

时间：60分钟　满分：100分+10分

题号	一	二	三	四	五	六	挑战题	总分
得分								

一、仔细审题，填一填。（每空1分，共28分）

1. 人民币的单位有（　　）、（　　）、（　　）。

2. 写出下面的钱数。



（　　）元（　　）角



（　　）元（　　）角

3. 在（　　）里填上“元”“角”或“分”。



12（　　）　　13（　　）　　5（　　）5（　　）

4. 在◯里填上“＞”“＜”或“＝”。

6角◯58分　　7元◯70角　　6元3角◯7元

1元◯20角　　2元◯200分　　9角9分◯100分

5. 我会买物品。

（1）买一本和一副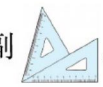，共需（　　）元（　　）角。


1元2角


6角


30元

（2）上面三种物品各买一件，共需（　　）元（　　）角。

（3）小华买了一副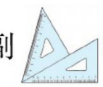和一个，付给售货员40元钱，应找回（　　）元（　　）角。

6.（1）1张可以换（　　）张，也可以换（　　）张，还可以换（　　）张。

（2）（　　）张和（　　）张合起来能换1张。

二、仔细推敲，选一选。（将正确答案的序号填在括号里）（每小题2分，共16分）

1. 妈妈昨天网购了一箱火龙果，妈妈可能付了（　　）钱。

① 68分　　② 6元8角　　③ 68元

2. 一个杯子8元，下面付钱不正确的是（　　）。

① 1张5元，3张1元　　② 8张1元　　③ 1张5元，4张5角

3. 下面钱数最多的是（　　）。

①

②

③

4. 龙龙买一本书用了15元4角，还剩1元6角，他原来有（　　）。

① 16元8角　　② 17元　　③ 14元2角

5. 明明买一个足球花了48元，付的全部是的人民币，他最少要付（　　）张。

① 5　　② 4　　③ 1

6. 欢欢买了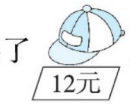，她付了一张20元的人民币，应找回（　　）。

① 8角　　② 2元　　③ 8元

7. 玩具汽车的价格可能是（　　）。

① 28元

② 38元

③ 45元

8.



甲16元　乙15元　丙29元　丁34元

① 甲和乙　　② 乙和丙　　③ 甲和丁

姓名　学号　班级　学校

密　封　线



关注微信公众号“教辅资料站”获取更多学习资料

三、细心的你，算一算。（每小题 2 分，共 10 分）

1. 1 张  +2 张  = （　　）元

2. 2 张  +4 张  = （　　）元（　　）角

3. 2 张  +3 张  = （　　）元（　　）角

4. 1 张  +3 张  +4 张  = （　　）元

5. 1 张  +4 张  +3 张  = （　　）元（　　）角

四、给出的钱能买什么？在能买的物品下面画“√”。（每小题 3 分，共 6 分）

1. 



2元5角
（　）


3元
（　）


4元5角
（　）

2. 

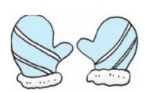
9元
（　）


7元5角
（　）


8元5角
（　）

五、下面哪种付款方法最简单？在（　　）里画“√”。（每小题 3 分，共 6 分）

1.


38元

① 1张 ，3张 ，3张 。（　）

② 1张 ，1张 ，1张 ，3张 。（　）

③ 3张 ，1张 ，3张 ，（　）

2.


12元8角

① 1张 ，2张 ，8张 。（　）

② 2张 ，2张 ，8张 。（　）

③ 1张 ，2张 ，1枚 ，3张 。（　）

六、聪明的你，答一答。（共 34 分）

1. 我会算应付的钱和应找的钱。（12 分）

1元2角

12元

5元

8元

1元

买的物品			
应付的钱			
实际付的钱			
应找的钱			

2. 爸爸有 、、、、 的人民币各若干张，买下面的电风扇可以怎样付款？至少写出三种不同的方法。（6 分）

98 元

3. 买体育用品。

52元

49元

28元

37元

（1）云云想买一副乒乓球拍，她有 2 张 20 元和 2 张 10 元，1 张 5 元，5 张 1 元，她可以怎样付钱？（4 分）

（2）篮球比羽毛球拍贵多少元？（4 分）

（3）东东买了一个网球拍付了 50 元，应找回多少钱？（4 分）

（4）请你再提出一个数学问题并解答。（4 分）

★**挑战题：天才的你，试一试。**（10 分）

他们的钱合起来买这副手套刚好够，这副手套多少钱？

自己说说
老师点评
家长点评
挑战题微课堂
密
封
线
家庭教育报刊
微信公众号
教辅资料站
关注微信公众号“教辅资料站”获取更多学习资料

荣德基 好卷

归类培优测试卷

1. 计算

2年级 数学 上(BS版)

错题本

时间：60分钟 满分：100分+10分

题号	一	二	三	四	五	六	七	挑战题	总分
得分									

一、仔细审题，填一填。(第9题4分，其余每空1分，共27分)

1. 8与9的和是(　　)，8个9的和再加上一个9是(　　)。

2. 7的6倍是(　　)，48里面有(　　)个8。

3. 计算4×7和28÷4都用到的口诀是(　　)。

4. (1) 3，6，9，(　　)，(　　)，18。

   (2) 30，(　　)，42，(　　)，(　　)。

5. 把口诀填完整。

   三五(　　)　　四(　　)二十　　六(　　)五十四

   (　　)十八　　(　　)五十六　　(　　)九七十二

6. 3张  +4张  =(　　)元(　　)角。

7. 学校合唱队原有64人，有7人毕业了，又新加入了15人。合唱队人数比原来(　　)了，现在有(　　)人。

8. 1个  6元，买5个  需要(　　)元，买(　　)个需要48元。

9. 写出积是24的乘法算式。

   (　　)×(　　)=24　　(　　)×(　　)=24

   (　　)×(　　)=24　　(　　)×(　　)=24

10. 如果△+△+△=24，○+○+○+○+○=20，那么△−○=(　　)。

二、仔细推敲，选一选。(将正确答案的序号填在括号里)(每小题1分，共8分)

1. 两个数的积是48，这两个数可能是(　　)。

   ① 5和9　　② 6和8　　③ 9和7

2. 在计算68−37−23时，一般先算68−37，再用得数减去23，还可以先算(　　)。

   ① 68+23　　② 37+23　　③ 37−23

3. 2连续加2，得出18，需要加(　　)次。

   ① 8　　② 9　　③ 10

4. 不能用口诀七九六十三计算的算式是(　　)。

   ① 63÷9　　② 7×9　　③ 9+7

5. 与6+6+6+6的和相等的算式是(　　)。

   ① 6+4　　② 4+4+4+4+4+4　　③ 6×5

6. 右边竖式错误的原因是(　　)。

   ① 没进位　　② 向前一位进的数不对

   ③ 忘记加进位的数

$$\begin{array}{r} 46 \\ 18 \\ +\ 29 \\ \hline 83 \end{array}$$

7. 看图找规律，信封上所缺的数是(　　)。



   ① 30　　② 34　　③ 16

8. 爷爷买一壶油刚好付了1张10元，2张5元，4张5角，一壶油(　　)元。

   ① 30　　② 25　　③ 22

三、细心的你，算一算。(共28分)

1. 直接写出得数。(每小题0.5分，共4分)

7×8=	7×7=	45÷9=	50+31+11=
9×4=	24÷3=	54÷6=	90−20−8=

2. 用竖式计算。(每小题2分，共6分)

12+48+26=　　72−29−25=　　57+34−19=

3. 在○里填上“>”“<”或“=”。(每小题1分，共6分)

5×8○6×7　　36÷6○2×3　　46−18+19○46−18−19

4×9○35+3　　81÷9○35÷5　　26+25+23○26+25+41

4. 在□里填上合适的数。(每小题1分，共6分)

□×3=24　　□×□=36　　□×□=25

□×□=72　　□÷9=3　　42÷□=7



姓名 学号 班级 学校 密 封 线

关注微信公众号“教辅资料站”获取更多学习资料

5. 括号里最大能填几？（每小题 1 分，共 6 分）

（　　）×3＜24　　54＞9×（　　）　　（　　）×6＜30

（　　）×8＜40　　（　　）×7＜65　　36＞（　　）×5

四、夺旗。（10 分）

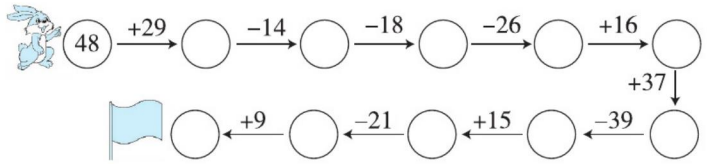

五、把蚂蚁送回家。（连一连）（8 分）

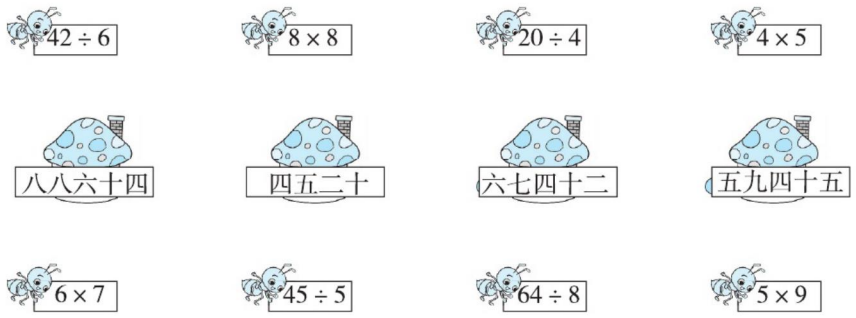

六、按要求做题。（共 8 分）

1. 先按要求画图，再写出算式。（每小题 2 分，共 4 分）

（1）每份有 8 个○，有 2 份。　　（2）先画 12 个♡，再每 3 个一份圈一圈。

□×□=□（　　）　　□÷□=□（　　）

2. 我会算物品的价钱。（每空 1 分，共 4 分）

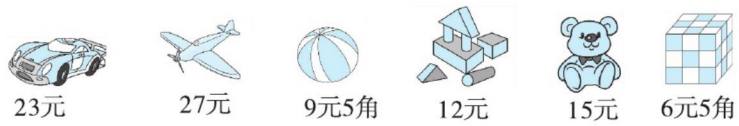

七、聪明的你，答一答。（共 11 分）

1. 猩猩有多少只？长颈鹿和鸵鸟一共有多少只？（3 分）



2. 买 7 个笔筒要付多少元？27 元可以买几本练习本？（3 分）



3.



（1）妈妈今年多少岁？（2 分）

（2）爷爷的年龄是小雪的几倍？（3 分）

★**挑战题：**天才的你，试一试。（10 分）

小马虎做减法题时，把减数个位上的 7 看成了 6，十位上的 3 也看成了 6，这样算出的结果是 28，正确的结果是多少？

关注微信公众号“教辅资料站”获取更多学习资料

荣德基 好卷

归类培优测试卷

2. 解决问题

2年级 数学 上（BS版）

时间：60分钟　满分：100分+10分

题号	一	二	三	四	五	挑战题	总分
得分							

姓名　学号　班级　学校

密　封　线

亮点提示：请不要在密封线内答题哦！

一、仔细审题，填一填。（每小题4分，共28分）

1. 爸爸每天睡7小时，一周睡（　　）小时。

2. 一个星期7天，9个星期（　　）天，2021年2月份有28天，是（　　）个星期。

3. 

刺猬每次背8个，（　　）次背完。

4. 

奶奶买了这样的6把扇子，花了（　　）元。

5. 学校希望路栽了两排树，一排8棵，一排9棵，共（　　）棵。

6. 一双拖鞋的价钱是一双袜子的8倍。



2×8表示（　　）。

2×8+2表示（　　）。

7. 把右边的水果装成水果篮。算式18+12−19表示（　　）。

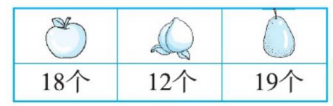

算式18+12+19表示（　　）。

二、仔细推敲，选一选。（将正确答案的序号填在括号里）（每小题2分，共12分）

1. 爸爸把一些苹果全部分给小亮和他的2个好朋友，每人5个，一共有多少个苹果？列式为（　　）。

① 2×5　　② 2+5　　③ 3×5

2. 下面第（　　）种摆法表示的是4的3倍。

① 　② 　③ 

3. 把24个苹果装袋销售，（　　），正好分完。

① 每5个一袋　　② 每9个一袋　　③ 每4个一袋

4. 6名同学去动物园，买门票一共需要多少元？列式正确的是（　　）。



① 6×9

② 6×5

③ 以上都不对

5. 40÷8不可以解决的问题是（　　）。

① 美术组有40名女生、8名男生，女生比男生多多少人？

② 有40枝花，每8枝扎成一束，可以扎成几束？

③ 每辆玩具小客车8元，每辆玩具小汽车40元，每辆玩具小汽车的价钱是每辆玩具小客车的几倍？

6. 凌霄买了一架玩具飞机，刚好付了3张5元和1张10元，凌霄买这架玩具飞机花了（　　）元。

① 20　　② 25　　③ 30

三、看图列式计算。（每小题4分，共8分）

1. 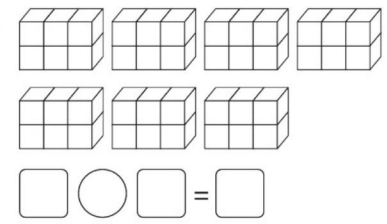

2. 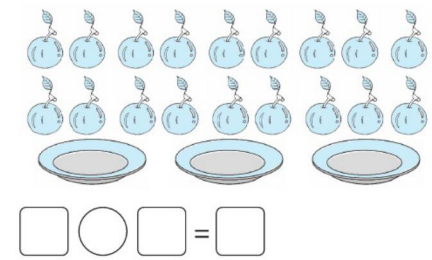

四、先补充条件或问题，再列式解答。（共10分）

1. 妈妈买了一件睡衣和一条裙子，_____，付100元够吗？（5分）



2. 

亮亮有28元钱，_____？（5分）

关注微信公众号“教辅资料站”获取更多学习资料

五、聪明的你，答一答。（共 42 分）

1. 交通法规定，司机开车时不按规定系安全带一次扣 2 分，累计扣分达到 12 分就要被暂扣驾驶证。张阿姨被查出 6 次未系安全带（无其他违规行为），她的驾驶证会被暂扣吗？（6 分）

2.

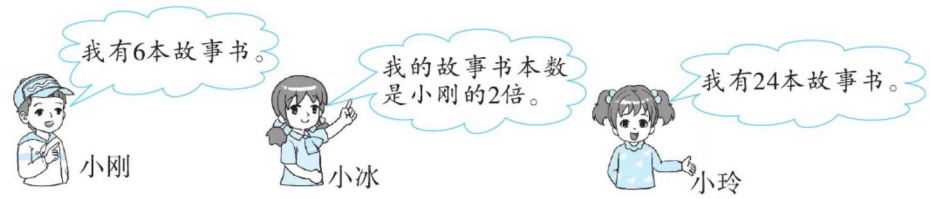

（1）小冰有多少本故事书？（5 分）

（2）小玲的故事书本数是小刚的几倍？（6 分）

3.



（1）买哪几样正好需要 100 元？请写出一种答案。（5 分）

（2）李叔叔用 70 元买了两样物品，找回 6 元，他买了哪两样？（5 分）

（3）给你 100 元，你想买哪两样？剩下多少钱？（5 分）

4.



（1）小兰有 12 元，她想买同一种文具，分别能买多少？（4 分）

可以买的文具	铅笔	彩笔	练习本	调色盘
能买多少	（　　）支	（　　）盒	（　　）本	（　　）个

（2）请你根据题中信息提出一个用乘法或除法解决的问题，并尝试解答。（6 分）

★**挑战题：**天才的你，试一试。（10 分）

这两本书各是多少元？



关注微信公众号“教辅资料站”获取更多学习资料

荣德基 好卷

综合培优测试卷

1. 期末测试卷（一）

2年级 数学 上（BS版）

时间：60分钟　满分：100分+10分

题号	一	二	三	四	五	挑战题	总分
得分							

一、仔细审题，填一填。（第1题3分，其余每空1分，共32分）

1. 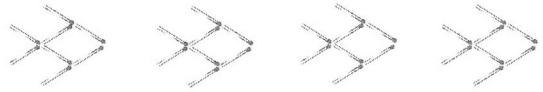

看上图，摆一条金鱼需要（　　）根火柴棒，有（　　）条金鱼，一共用了□×□=□（根）火柴棒。

2. 

（　　）元（　　）角



（　　）元

3. 在括号里填上合适的单位。

（1）小明的身高约是146（　　）。　（2）房间高约3（　　）。

（3）买一本故事书需要13（　　）。　（4）黑板长约3（　　）。

4. 按规律填数。

（1）32，35，38，41，（　　），（　　），（　　）。

（2）54，（　　），42，36，（　　），（　　）。

5. 

芒果的个数是桃子的3倍，芒果有（　　）个，

桃子的个数是梨子的2倍，梨子有（　　）个。

6. 在16，21，32，36，12，9，20中，是4的倍数的有（　　），是6的倍数的有（　　），是9的倍数的有（　　）。

7. 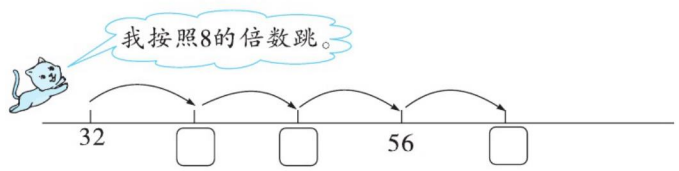

8. 在○里填上“＞”“＜”或“＝”。

8元○7元2角　　35厘米+65厘米○1米　　45÷9○54÷9

9. 括号里最大能填几？

（　　）×8＜65　　47＞7×（　　）　　5×（　　）＜28

10. 妈妈去坐公交车，只带了一张10元纸币，需要到商店换零钱（零钱至少有1张1元或2枚5角），你能有几种换法？写出两种：（　　），（　　）。

二、仔细推敲，选一选。（将正确答案的序号填在括号里）（每小题2分，共16分）

1. 汉字“日”的笔画是4笔，汉字“晶”的笔画是（　　）笔。

① 8　　② 10　　③ 12

2. 《西游记》里，唐僧师徒历经“（　　）九八十一难”，才取到真经。

① 二　　② 七　　③ 九

3. 右图中这把梳子的长度是（　　）。

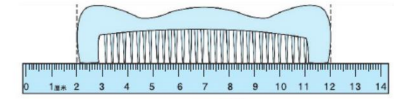

① 12厘米　　② 10厘米

③ 10米

4. 围巾的价格是手套的（　　）倍。

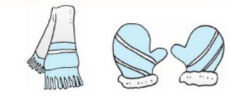

① 4　　② 6　　③ 24

5. 将一张正方形纸片对折再对折，并在正中央打孔，展开后得到的图案是（　　）。

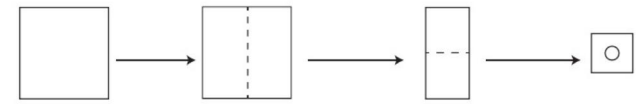

① 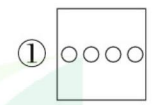　② 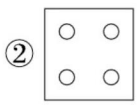　③ 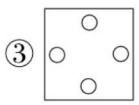

6. 与8+8+8+4的结果相同的算式是（　　）。

① 8×3　　② 8×4　　③ 4×7

7. 把8个汉堡平均分给4个同学，正确的分法是（　　）。

① 

② 

③ 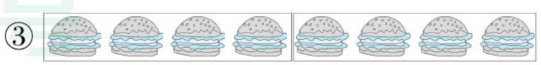

豆点提示：请不要在密封线内答题哦！

关注微信公众号“教辅资料站”获取更多学习资料

8. 有 32 支铅笔，每盒装 8 支，_____？横线上填（　　）可以用除法解决。

①几支铅笔装一盒　　②可以装几盒　　③还剩几支

三、细心的你，算一算。（共 19 分）

1. 直接写出得数。（每小题 1 分，共 10 分）

4 × 8 =	9 × 2 =	1 × 7 =	35 ÷ 5 =	28 ÷ 7 =
5 − 5 =	30 ÷ 5 =	26 + 37 =	77 − 25 =	6 × 6 =

2. 用竖式计算。（每小题 3 分，共 9 分）

46 + 25 + 29 =　　100 − 44 + 25 =　　90 − 35 − 25 =

四、动手操作，我能行。（共 10 分）

1. 画○，并列式求○的个数。（每小题 2 分，共 4 分）

（1）每行画 6 个○，画 3 行。

算式：_____

（2）○的个数是△的 2 倍。

△ △ △ △

算式：_____

2. 圈一圈，填一填。（6 分）



8 × 5 = 8 ×(　　) + 8 ×(　　)



7 × 6 = 7 ×(　　) + 7 ×(　　)

五、聪明的你，答一答。（共 23 分）

1. 还剩多少个停车位？（5 分）



2. （6 分）

（1）



一共采了多少个蘑菇？

□ ○ □ = □（　　）

（2）24 个小朋友做游戏。

① 每 4 个人一组，可以分几组？

□ ○ □ = □（　　）

② 平均分成 8 组，每组几个人？

□ ○ □ = □（　　）

3. 去超市购物。



（1）妈妈带了多少元？（3 分）

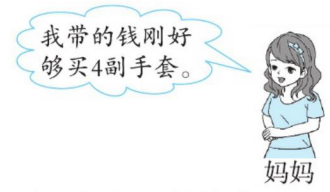

（2）妈妈用这些钱买了同一种物品，刚好买了 6 个。妈妈买的是什么？（3 分）

（3）欢欢现在有多少钱？（3 分）

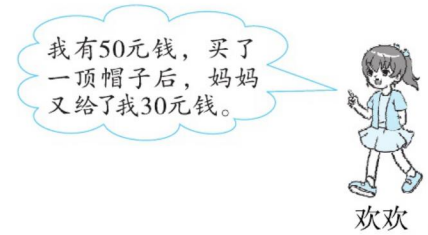

（4）请你提出一个用乘法或除法解决的数学问题，并解答。（3 分）

★**挑战题：**天才的你，试一试。（10 分）

妈妈在文具店里买了一个书包和一盒水彩笔共花了 36 元。书包和水彩笔各多少钱？



关注微信公众号“教辅资料站”获取更多学习资料

荣德基 好卷

参考答案及点拨

2年级 数学 上（BS版）（大卷）

单元培优测试卷

第一单元　加与减

一、1.（1）63　68　（2）减　63　加　81

2. 18　42　16　100

3. =　>　<　=

4. 9　41

5. 亮亮和云云一共搬走多少张桌子　云云搬走的桌子比亮亮多多少张　还剩多少张桌子没搬走

6. 47　85

二、1. ②　2. ③　3. ①　4. ②　5. ②

三、1. 53　30　75　28　67　50　33　9

2. 28 + 46 − 25 = 49　100 − 64 − 18 = 18

$$\begin{array}{r} 28 \\ +46 \\ \hline 74 \\ -25 \\ \hline 49 \end{array} \qquad \begin{array}{r} 100 \\ -\ 64 \\ \hline 36 \\ -\ 18 \\ \hline 18 \end{array}$$

39 + 23 + 32 = 94　77 − 58 + 31 = 50

$$\begin{array}{r} 39 \\ +23 \\ \hline 62 \\ +32 \\ \hline 94 \end{array} \qquad \begin{array}{r} 77 \\ -58 \\ \hline 19 \\ +31 \\ \hline 50 \end{array}$$

6 + 85 − 49 = 42　93 − 27 − 35 = 31

$$\begin{array}{r} 6 \\ +85 \\ \hline 91 \\ -49 \\ \hline 42 \end{array} \qquad \begin{array}{r} 93 \\ -\ 27 \\ \hline 66 \\ -\ 35 \\ \hline 31 \end{array}$$

3. 57　70　14　52

43　78　59　100　73

四、1. 28 + 16 = 44（份）

28 + 44 = 72（份）

答：下午发了44份，这天共发了72份。

2.（1）26 + 24 = 50（分）

答：她得了50分。

（2）29 + 37 + 28 = 94（分）

答：他得了94分。

3.（1）38 − 9 + 38 = 67（张）

答：第一小组和第二小组一共写了67张。

（2）（答案不唯一）

第三小组写了多少张？

38 − 9 + 16 = 45（张）

答：第三小组写了45张。

4.（1）（答案不唯一）90 − 36 − 48 = 6（元）

答：我想买一本《小猪变形记》和一本《青蛙王子》，还剩6元。

（2）48 + 52 = 100（元）

答：买一本《青蛙王子》和一本《灰姑娘》正好需要花100元。

5.（1）68 − 28 − 19 = 21（元）

65 − 16 − 24 = 25（元）

答：王老师9月兑换话费21元，李老师8月兑换话费25元。

（2）刘老师总共兑换的话费可能是66元，则9月兑换话费66−23−31=12（元）；

总共兑换的话费也可能是67元，则9月兑换话费67 − 23 − 31 = 13（元）。

答：刘老师总共兑换的话费可能是66元或67元，9月可能兑换话费12元或13元。

挑战题：巧巧要想获胜，3次一共至少得76 + 1 = 77（分）。

77 − 24 − 32 = 21（分）

答：第3次至少要得21分。

第二单元　购物

一、1. 元　角　分

2. 15　6　1　4

3. 元　元　角　分

4. >　=　<　<　=　<

5.（1）1　8　（2）31　8　（3）9　4

6.（1）2　10　20　（2）2　4（答案不唯一）

二、1. ③　2. ③　3. ②　4. ②　5. ①　6. ③

7. ②　8. ③

三、1. 11　2. 2　4　3. 3　5　4. 84

5. 14　3

四、1.（√）（　）（　）

2.（　）（√）（　）

五、1. ②（√）　2. ③（√）

六、1. 13元　2元4角　13元

7元　1角　2元

2. ① 付1张50元，2张20元，1张5元，3张1元。

② 付4张20元，1张10元，1张5元，3张1元。

③ 付1张50元，4张10元，1张5元，3张1元。

（答案不唯一）

3.（1）（答案不唯一）云云可以付2张20元，1张5元，4张1元。

（2）52 − 28 = 24（元）

答：篮球比羽毛球拍贵24元。

（3）50 − 37 = 13（元）

答：应找回13元。

（4）（答案不唯一）

买一个网球拍和一副乒乓球拍100元够吗？

37 + 49 = 86（元）

86 < 100

答：买一个网球拍和一副乒乓球拍100元够。

挑战题：2元8角 + 4元 = 6元8角

答：这副手套6元8角。

【点拨】他们的钱合起来买这副手套刚好够，他们两人分别差的钱合起来刚好也能买一副手套。

第三单元　数一数与乘法

一、1. 4　3　12　3　4　12　2. 3　3

3. 48　6 × 8 = 48　六乘八等于四十八

4. 4 × 5

7 + 7 + 7 + 7（或4 + 4 + 4 + 4 + 4 + 4 + 4）

2 × 4

9 + 9 + 9（或3 + 3 + 3 + 3 + 3 + 3 + 3 + 3 + 3）

5. >　=　>　<　=　>

6. 16　4 × 4 = 16（笔）

二、1. ①　2. ①　3. ②　4. ①　5. ②　6. ①

7. ②　8. ②

三、

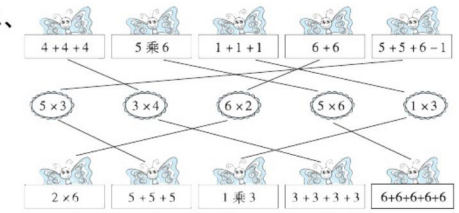

【点拨】此题中5 + 5 + 6 − 1可转化成5 + 5 + 5，应与5 × 3相连。

四、（答案不唯一）

○○○○○○○○○○　○○○○○○○○○○

或○○　○○　○○　○○　○○　○○　○○　○○　○○

五、1. 4 × 3　△△△　△△△　△△△　△△△

或△△△△　△△△△　△△△△

3 × 7　□□□□□□□　□□□□□□□　□□□□□□□

或□□□　□□□　□□□　□□□　□□□　□□□　□□□

2.

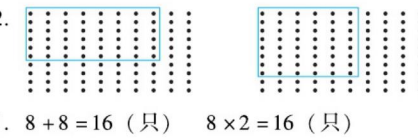

六、1. 8 + 8 = 16（只）　8 × 2 = 16（只）

2. 3 + 3 + 3 + 3 = 12（人）　3 × 4 = 12（人）

3. 7 × 3 = 21（格）

4. 6 × 6 = 36（个）

七、1. 7 × 4 = 28（个）

答：一共有28个球。

2.（1）3 × 4 = 12（本）

答：一共有12本书。

（2）一共花了多少元？

9 × 4 = 36（元）

答：一共花了36元。

3. 2 × 2 = 4（个）

2 × 3 = 6（个）

3 × 3 = 9（个）

答：豆沙面包有4个，肉松面包有6个，甜甜圈有9个。

4.（1）5 + 8 = 13（枚）

答：张阿姨收藏了13枚牛年生肖纪念币。

关注微信公众号“教辅资料站”获取更多学习资料

（2）8×5=40（枚）

答：张阿姨收藏了40枚纪念邮票。

挑战题：由3+3+3=9可知 =3；由2+2+2+2+2=2×5=10可知 =2；因为3+2+ =15，所以 =10。

第四单元　图形的变化

一、1. √　×　√　√　√　×　√　√　×

2. 

3.（1）④　下　2　（2）③　下　1

（3）①　上　2　右　4

【点拨】（1）和（2）答案不唯一。

4. ③④①②

二、1. ③　2. ③　3. ②　4. ②　5. ③　6. ②　7. ①　8. ③

三、96－18＋27＝105　　24＋36－2＝58

$\begin{array}{r} \dot{9}\,6 \\ -1\,8 \\ \hline 7\,8 \end{array}$　$\begin{array}{r} 7\,8 \\ +2_{1}\,7 \\ \hline 1\,0\,5 \end{array}$　$\begin{array}{r} 2\,4 \\ +3_{1}\,6 \\ \hline 6\,0 \end{array}$　$\begin{array}{r} \dot{6}\,0 \\ -\ \ 2 \\ \hline 5\,8 \end{array}$

100－39－34＝27　　90－65＋45＝70

$\begin{array}{r} \dot{1}\,\dot{0}\,0 \\ -\ 3\,9 \\ \hline 6\,1 \end{array}$　$\begin{array}{r} \dot{6}\,1 \\ -3\,4 \\ \hline 2\,7 \end{array}$　$\begin{array}{r} \dot{9}\,0 \\ -6\,5 \\ \hline 2\,5 \end{array}$　$\begin{array}{r} 2\,5 \\ +4_{1}\,5 \\ \hline 7\,0 \end{array}$

72＋18＋9＝99　　69＋25－75＝19

$\begin{array}{r} 7\,2 \\ +1_{1}\,8 \\ \hline 9\,0 \end{array}$　$\begin{array}{r} 9\,0 \\ +\ \ 9 \\ \hline 9\,9 \end{array}$　$\begin{array}{r} 6\,9 \\ +2_{1}\,5 \\ \hline 9\,4 \end{array}$　$\begin{array}{r} \dot{9}\,4 \\ -7\,5 \\ \hline 1\,9 \end{array}$

四、1.（1）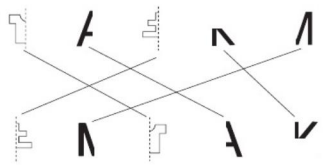

（2）略

2.（1）8 

（2）⑤　②　④　①　③

3.（1）（　　）（√）（√）

（2）（√）（√）（　　）

挑战题：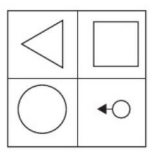

第五单元　2～5的乘法口诀

一、1. 二十一　14　十四　28　二十八

2.（1）18　21　24　（2）20　16　12

3. 9　12　6

4. ×　×　<　=　<　<

5. 4×8=32　8×4=32

6. 5　7　3　5　5　7　7. 40　30

二、1. ③　2. ①　3. ①　4. ①　5. ③　6. ③　7. ③　8. ②

三、1. 16　25　16　6

30　27　35　12

28　10　12　6

2. 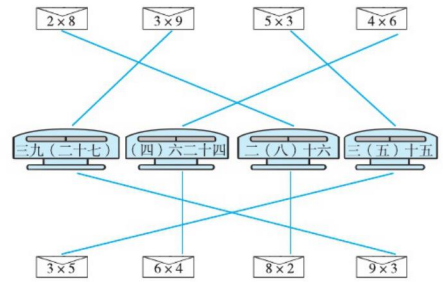

四、1. 4×7=28（根）　四七二十八

2. 2×6=12（只）　二六十二

3. 2×4=8（条）　二四得八

4. 3×7=21（个）　三七二十一

五、

	每根3元	每个2元	每个5元	每本4元
买的数量	8根	7个	6个	5本
花的钱数	24元	14元	30元	20元

六、1. 5×4=20（个）

答：这首古诗一共有20个字。

2. 8×3=24（个）

答：一共捡了24个废塑料袋。

3.（1）2×3=6（只）

答：一共有6只小鸟。

（2）树上一共有多少个苹果？

（3）（答案不唯一）一共有多少只猴子？

4×4=16（只）

答：一共有16只猴子。

4.（1）2×8=16（元）

答：买8根跳绳需要16元。

（2）买2个文具盒需要多少元？或买6根跳绳需要多少元？

（3）3×9=27（元）　30－27=3（元）

答：应找回3元。

挑战题：1. 3　5　2. 6　2

期中测试卷

一、1. 4乘3等于12　6×3（或3×6）

2. 2　5　10

3. 40　五八四十

4.（1）35　42　（2）28　20

5. 五　三　二十八

6. 6　5　4　2　6　3　4

7. <　>　>　=　<　>

8. 91　9. 32　20　10. 87　13

二、1. ②　2. ①　3. ③

4. ③　【点拨】36＋1＝37（下）。

5. ③　6. ③　7. ③　8. ①

三、1. 16　18　36　40　80　0　37

2. 56＋27－32＝51　99－23－17＝59

$\begin{array}{r} 5\,6 \\ +2_{1}\,7 \\ \hline 8\,3 \\ -3\,2 \\ \hline 5\,1 \end{array}$　$\begin{array}{r} 9\,9 \\ -\ 2\,3 \\ \hline \dot{7}\,6 \\ -\ 1\,7 \\ \hline 5\,9 \end{array}$

25＋36＋18＝79

$\begin{array}{r} 2\,5 \\ +3_{1}\,6 \\ \hline 6\,1 \\ +1\,8 \\ \hline 7\,9 \end{array}$

四、3×6　4×5



五、1. 6×4=24（元）　2. 5×7=35（个）

六、1. 4×6=24（人）

24<25　**答：**不够。

2.（1）28＋36=64（元）

64－5=59（元）

答：买一件短袖和一条裤子需要59元。

（2）（答案不唯一）买一个玩具兔和一辆玩具汽车需要多少元？

19＋36=55（元）　55－5=50（元）

答：买一个玩具兔和一辆玩具汽车需要50元。

3.（1）7×6=42（人）

答：二（1）班一共有42人。

（2）45－18=27（幅）

答：第一小组比第二小组多制作27幅手抄报。

4.（1）28＋19=47（元）

答：买一把伞和一辆玩具车47元，付2张20元，1张5元和2张1元。（付钱方法不唯一）

（2）35＋28=63（元）　100－63=37（元）

答：应找回37元。

（3）买3个汉堡多少钱？

挑战题：8－3=5（层）　9×5=45（秒）

答：他从3楼到8楼需要45秒。

第六单元　测量

一、1. 7　5　【点拨】求钉子的长度，既要看量的“起点”，也要看量的“终点”，列式计算是9－4=5（厘米）。

2.（1）7　11　（2）6　8　3. 200　4. 6

5. 米　厘米　米　米　厘米　米　厘米

6. 厘米　米　7. =　>　>　<　>　=

8. 4　5　【点拨】6－2=4（厘米），9－4=5（厘米）。

9. 300　2　1

10. 6

二、1. ②　2. ③　3. ②　4. ①　5. ①

三、1. 略

2. 

（3）厘米

（5）厘米

3. 7　6　6　7

四、比1米（高（矮））　比10厘米（宽（窄））

比1米（（长）　短）

桌子高（8厘米　（80厘米）　8米）

树高（8厘米　80厘米　（8米））

五、1. 10　【点拨】1米=100厘米，100－90=10（厘米）。

2. 8

3. 6＋7＋9＋7＋4=33（厘米）

关注微信公众号“教辅资料站”获取更多学习资料

33 < 34

答：机器人能从这座桥下通过。

4. （1）1 米 = 100 厘米

100 − 80 = 20（厘米）

答：蜗牛离终点还有 20 厘米。

（2）90 − 70 = 20（厘米）

答：蚂蚁比小虫子多爬 20 厘米。

挑战题：35 + 35 − 5 = 65（厘米）

答：叠在一起后木板长 65 厘米。

第七单元　分一分与除法

一、1. 5　2

2. 3　15 ÷ 5 = 3（个）

3. （1）15　（2）5　（3）3

4. 24 ÷ 4 = 6　24 ÷ 6 = 4

5. 5　6. 5　8

二、1. ③　2. ②　3. ③　4. ②　5. ③　6. ③　7. ③　8. ③

三、1. △△△△△△△△△△

2. ○○

3. 画图略

四、1. 4 × 5 = 20　5 × 4 = 20　20 ÷ 4 = 5　20 ÷ 5 = 4

2. 21 ÷ 3 = 7

3. 21 ÷ 7 = 3

4. 7 × 3 = 21（厘米）

五、1. 18 ÷ 6 = 3（次）　18 ÷ 3 = 6（个）

2. （1）6 × 2 = 12（条）

答：2 盘一共有 12 条鱼。

（2）12 ÷ 3 = 4（条）

答：每只小猫分得 4 条鱼。

3.

只数/只	2	4	20	6

4. （1）25 ÷ 5 = 5

答：T 恤的价格是牛奶的 5 倍。

（2）3 × 9 = 27（元）

答：篮球 27 元。

（3）（答案不唯一）15 元正好可以买几个面包？

15 ÷ 3 = 5（个）

答：15 元正好可以买 5 个面包。

5. （1）小乐　（2）小刚　（3）小强

（4）3　8　13　18　23

挑战题：2 年后小美：7 + 2 = 9（岁）

2 年后妈妈：9 × 4 = 36（岁）

今年妈妈：36 − 2 = 34（岁）

答：妈妈今年 34 岁。

第八单元　6 ~ 9 的乘法口诀

一、1. 27　9　2　8

2. 四十二　四十　七九　八八　七　六八

3. 6 × 9 = 54　8 × 9 = 72　8 × 7 = 56

9 × 6 = 54　9 × 8 = 72　7 × 8 = 56

4. 45　8

5. 九九八十一　八九七十二　三七二十一

6. 3 × 9 = 27　9 × 3 = 27

27 ÷ 3 = 9　27 ÷ 9 = 3

【点拨】答案不唯一。

7. （1）72　81　（2）40　32

二、1. ③　【点拨】一共有 7 人。

2. ③　3. ②　4. ③　5. ③　6. ①　7. ②　8. ②

三、1. 2　8　2　9

9　7　2

3　8（第 3、第 5、第 6 个式子答案不唯一）

2. =　=　<　>　=　<

3. 3　40　4　50　5　60　6　80　8　90　9

四、1. 6 × 8 = 48　六八四十八

2. 3 × 7 = 21　三七二十一

3. 9 × 5 = 45

9 × 2 = 18

9 × 7 = 9 × 5 + 9 × 2

五、1. 4 × 8 = 32（块）　32 < 35

答：每人一块，不够。

2. 6 × 8 = 48（辆）

答：8 时有 48 辆车被骑走。

3. 9 × 3 = 27（个）

答：强强得了 27 个优。

4. （1）6 × 7 = 42（元）　50 − 42 = 8（元）

答：买 7 张儿童票需要 42 元钱，如果付一张 50 元人民币应找回 8 元钱。

（2）12 ÷ 6 = 2

答：成人票价格是儿童票的 2 倍。

5. （1）24 ÷ 6 = 4（个）

答：可以买 4 个三阶魔方。

（2）7 × 9 = 63（元）　63 > 60

答：60 元不够。

（3）（答案不唯一）

亮亮用 100 元买了 6 个七阶魔方后还剩多少钱？

8 × 6 = 48（元）　100 − 48 = 52（元）

答：亮亮用 100 元买了 6 个七阶魔方后还剩 52 元钱。

挑战题：6 × 9 = 54（厘米）

答：铁环一周是 54 厘米。

第九单元　除法

一、1. 9　42　7　2. 1

3. 18 ÷ 2 = 9　27 ÷ 3 = 9　36 ÷ 4 = 9　45 ÷ 5 = 9

（答案不唯一）

4. 9　5. （1）8　（2）9

6. 8　八九七十二　72 ÷ 8 = 9

7. 36　9 × 4 = 36（架）

6　36 ÷ 6 = 6（组）

【点拨】注意带上单位。

8. 8　16 ÷ 2 = 8　9. 8　7

10. 36　6　6　36　4　9　36

9　36　6　6　36　9　4

二、1. ③　2. ③　3. ③　4. ②　5. ①

三、1. 9　9　8　8　7　16　7　6

2. 4　5　7　4　8　7

四、

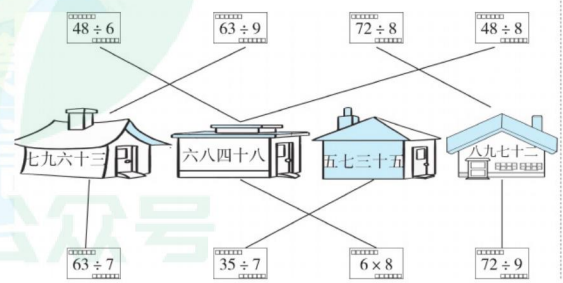

五、1. 42 ÷ 6 = 7（件）　56 ÷ 8 = 7（件）

答：这些花能做 7 件花标本，这些树叶能做 7 件树叶标本。

2. （1）4 × 6 = 24（元）

答：一共花了 24 元。

（2）24 ÷ 8 = 3（份）

答：能买 3 份。

（3）8 ÷ 4 = 2

答：B 套餐的价格是 A 套餐的 2 倍。

3. （1）8 × 3 = 24（节）

答：第 1 小组收集了 24 节废旧电池。

（2）（答案不唯一）

① 第 2 小组平均每人植树多少棵？

30 ÷ 5 = 6（棵）

答：第 2 小组平均每人植树 6 棵。

② 第 3 小组共发了多少张宣传单？

5 × 9 = 45（张）

答：第 3 小组共发了 45 张宣传单。

4. （答案不唯一）①③　第二组平均每人画了多少幅蜡笔画？

48 ÷ 8 = 6（幅）

答：第二组平均每人画了 6 幅蜡笔画。

①⑤　第四组平均每人画了多少幅水墨画？

64 ÷ 8 = 8（幅）

答：第四组平均每人画了 8 幅水墨画。

挑战题：错误的被除数：7 × 9 = 63

正确的被除数：36

正确的商：36 ÷ 9 = 4

答：正确的商是 4。

归类培优测试卷

1. 计算

一、1. 17　81　2. 42　6　3. 四七二十八

4. （1）12　15　（2）36　48　54

5. 十五　五　九

二九（或三六）　七八　八

6. 3　4　7. 多　72　8. 30　8

9. 3　8　8　3　4　6　6　4

10. 4

微信公众号 教辅资料站
关注微信公众号“教辅资料站”获取更多学习资料

二、1. ② 2. ② 3. ① 4. ③ 5. ② 6. ②
7. ② 8. ③

三、1. 56 49 5 92 36 8 9 62

2. $12+48+26=86$ $72-29-25=18$

$$\begin{array}{r} 12 \\ +48 \\ \hline 60 \\ +26 \\ \hline 86 \end{array} \qquad \begin{array}{r} 72 \\ -29 \\ \hline 43 \\ -25 \\ \hline 18 \end{array}$$

$57+34-19=72$

$$\begin{array}{r} 57 \\ +34 \\ \hline 91 \\ -19 \\ \hline 72 \end{array}$$

3. < = > < > <

4. 8 4 9（或6 6） 5 5
8 9 27 6

5. 7 5 4 4 9 7

四、77 63 45 19 35 72 33 48 27 36

五、

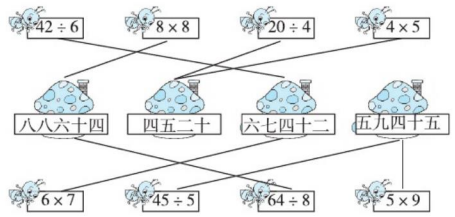

六、1.（1）○○○○○○○○
○○○○○○○○
$8\times2=16$（个）
（2）♡♡♡ ♡♡♡ ♡♡♡ ♡♡♡
$12\div3=4$（份）

2. 16元 27元 18元5角 50元

七、1. $17+6=23$（只）
$17-9=8$（只）
$17+8=25$（只）
答：猩猩有23只，长颈鹿和鸵鸟一共有25只。

2. $7\times8=56$（元）
$27\div3=9$（本）
答：买7个笔筒要付56元，27元可以买9本练习本。

3.（1）$8\times4=32$（岁）
答：妈妈今年32岁。
（2）$64\div8=8$
答：爷爷的年龄是小雪的8倍。

挑战题：$28+66=94$
$94-37=57$
答：正确的结果是57。

2. 解决问题

一、1. 49 2. 63 4 3. 7 4. 30 5. 17

6. 一双拖鞋的价钱 一双拖鞋和一双袜子一共多少钱

7. 苹果和桃子的总数比梨子多多少个
苹果、桃子、梨子一共多少个

二、1. ③ 2. ① 3. ③ 4. ② 5. ① 6. ②

三、1. $6\times7=42$ 2. $18\div3=6$

四、1.（答案不唯一）一条裙子52元
$52-18+52=86$（元） $86<100$
答：付100元够。

2.（答案不唯一）
亮亮可以买几个红枣面包？
$28\div7=4$（个）
答：亮亮可以买4个红枣面包。

五、1. $6\times2=12$（分） $12=12$
答：她的驾驶证会被暂扣。

2.（1）$6\times2=12$（本）
答：小冰有12本故事书。
（2）$24\div6=4$
答：小玲的故事书本数是小刚的4倍。

3.（1）（答案不唯一）$78+22=100$（元）
答：买一个玩具熊和一台录音机正好需要100元。
（2）$70-6=64$（元） $46+18=64$（元）
答：他买了一部电话机和一本书。
（3）（答案不唯一）
$46+36=82$（元） $100-82=18$（元）
答：我想买一部电话机和一辆玩具车，剩下18元。

4.（1）6 2 4 3
（2）（答案不唯一）16元可以买几个调色盘？
$16\div4=4$（个）
答：16元可以买4个调色盘。

挑战题：《地球日的礼物》：$4-1=3$ $18\div3=6$（元）
《青蛙王子》：$6+18=24$（元）
答：《地球日的礼物》是6元，《青蛙王子》是24元。

3. 图形与几何

一、1. 中心 2. 厘米 米 3. 9 4. 5
5. 10 4 5
6.（1）厘米 （2）厘米 （3）米 （4）厘米
7. 9 10【点拨】列式为$2+5+2=9$（厘米）和$8+2=10$（厘米）。
8. 50 100

二、1. ① 2. ① 3. ③ 4. ① 5. ③ 6. ③
7. ② 8. ③

三、1. 3 3 3 3 2 2 2 3 2. 画图略
3. $5+2+2+11=20$（厘米）

四、

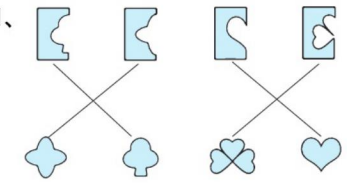

五、1. > = = < < >
2. 1米28厘米>1米9厘米>1米>99厘米

六、1. 1米=100厘米 $100-20-20=60$（厘米）
答：波比身高60厘米。
2. 10：51
3. 略

挑战题：$20-12=8$（厘米）
答：能测量出长1厘米，2厘米，3厘米，4厘米，
5厘米，6厘米，7厘米，8厘米的物体。

4. 易错题

一、1. 7 9 8 5 2. 9 4 3. < > <

4. − × + ÷

5. 30 80

6.（1）16 20 （2）30 25

7. 6 7 5 8. 5 9. 25

10. 3 7（答案不唯一）

二、1. ① 2. ① 3. ① 4. ③ 5. ② 6. ③
7. ③ 8. ②

三、$46-27+16=35$ $38+27+15=80$

$$\begin{array}{r} 46 \\ -27 \\ \hline 19 \\ +16 \\ \hline 35 \end{array} \qquad \begin{array}{r} 38 \\ +27 \\ \hline 65 \\ +15 \\ \hline 80 \end{array}$$

$100-28-56=16$

$$\begin{array}{r} 100 \\ -\ 28 \\ \hline 72 \\ -\ 56 \\ \hline 16 \end{array}$$

四、1. △△△△△△ 2. ○○○

五、1. $7\times6=42$（米）
2. $62-8-45=9$（元）

六、1. $24\div8=3$
答：当当读的书的本数是丁丁的3倍。

2.（1）$6\times4=24$（元）
答：买6瓶果汁要24元。
（2）$4\times7=28$（元） $28<30$
答：钱够。
（3）（答案不唯一）买5本科技书要多少元？
$9\times5=45$（元）
答：买5本科技书要45元。

3.（1）$29+29=58$（元）
$80-58=22$（元）
答：一台录音机比两本书贵22元。
【点拨】注意是“两本书”。
（2）$34+29=63$（元）
$100-63=37$（元）
答：应找回37元。
【点拨】要求应找回多少元，应先求出一辆玩具车和一本书共要多少元。

关注微信公众号“教辅资料站”获取更多学习资料

（3）（答案不唯一）第一种：付4张20元。

第二种：付1张50元、1张20元、1张10元。

挑战题：（答案不唯一） 75 35 68 48

39 27 56 30

综合培优测试卷

1. 期末测试卷（一）

一、1. 8 4 8 4 32 2. 27 5 81

3.（1）厘米 （2）米 （3）元 （4）米

4.（1）44 47 50 （2）48 30 24

5. 24 4

6. 16，32，36，12，20

36，12 36，9

7. 40 48 64 8. > = < 9. 8 6 5

10. 1张5元，5张1元 10张1元（答案不唯一）

二、1. ③ 2. ③ 3. ② 4. ① 5. ② 6. ③

7. ② 8. ②

三、1. 32 18 7 7 4 0 6 63 52 36

2. 46 + 25 + 29 = 100 100 − 44 + 25 = 81

$$\begin{array}{r} 46 \\ +\ 2_{1}5 \\ \hline 71 \\ +\ 29 \\ \hline 100 \end{array} \qquad \begin{array}{r} \dot{1}\,\dot{0}\,0 \\ -\ 44 \\ \hline 56 \\ +\ 2_{1}5 \\ \hline 81 \end{array}$$

90 − 35 − 25 = 30

$$\begin{array}{r} \dot{9}\,0 \\ -\ 35 \\ \hline 55 \\ -\ 25 \\ \hline 30 \end{array}$$

四、1.（1）○○○○○○

○○○○○○

○○○○○○

6 × 3 = 18（个）

（2）○○○○ ○○○○ 4 × 2 = 8（个）

2.

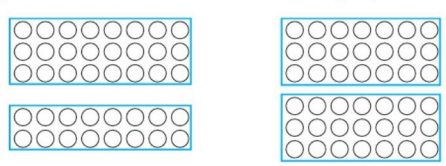

3 2 3 3

（答案不唯一）

五、1. 93 − 26 − 43 = 24（个）

答：还剩24个停车位。

2.（1）9 × 6 = 54（个）

（2）① 24 ÷ 4 = 6（组）

② 24 ÷ 8 = 3（个）

3.（1）4 × 9 = 36（元）

答：妈妈带了36元。

（2）36 ÷ 6 = 6（元）

答：妈妈买的是杯子。

【点拨】求出这种物品的单价是6元，只有杯子的单价是6元，所以妈妈买的是杯子。

（3）50 − 24 + 30 = 56（元）

答：欢欢现在有56元钱。

（4）（答案不唯一）一个书包的价钱是一副手套的几倍？

54 ÷ 9 = 6

答：一个书包的价钱是一副手套的6倍。

挑战题：5 + 1 = 6 36 ÷ 6 = 6（元）

6 × 5 = 30（元）

答：水彩笔6元，书包30元。

2. 期末测试卷（二）

一、1. 68 300 2. 42 13

3. 20 4 5 20除以4等于5

4. 24 4 5. 8 5 8 3

6. 四十八 6 × 8 = 48 8 × 6 = 48

48 ÷ 6 = 8 48 ÷ 8 = 6

7. 30 4 【点拨】1张20元是20元，2张5元是10元，4张1角是4角，合起来就是30元4角。

8.（1）36 49 （2）45 54

9. 6 10. 6

二、1. √

2. × 【点拨】松树的棵数是柳树的4倍。

3. √ 4. √

5. × 【点拨】小明学校的教学楼高约12米。

三、1. ② 2. ③ 3. ③ 4. ① 5. ② 6. ①

7. ③ 8. ②

四、1. 2 4 40 3 42 7 27 32

2. 92 − 76 + 35 = 51 27 + 37 + 36 = 100

$$\begin{array}{r} \dot{9}\ 2 \\ -\ 7\ 6 \\ \hline 1\ 6 \\ +\ 3_{1}5 \\ \hline 5\ 1 \end{array} \qquad \begin{array}{r} 2\ 7 \\ +\ 3_{1}7 \\ \hline 6\ 4 \\ +\ 3_{1}6 \\ \hline 1\ 0\ 0 \end{array}$$

80 − 24 − 16 = 40

$$\begin{array}{r} \dot{8}\ 0 \\ -\ 2\ 4 \\ \hline 5\ 6 \\ -\ 1\ 6 \\ \hline 4\ 0 \end{array}$$

五、1. 27 + 36 + 18 = 81（元）

2. 62 − 17 − 25 = 20（元）

3. 36 ÷ 4 = 9（元）

4. 5 × 5 = 25（格）

六、1.（1）45 + 16 = 61（双）

答：B品牌鞋卖了61双。

（2）61 − 22 = 39（双）

答：C品牌鞋卖了39双。

（3）（答案不唯一）

B品牌鞋和C品牌鞋一共卖了多少双？

61 + 39 = 100（双）

答：B品牌鞋和C品牌鞋一共卖了100双。

2.（1）9 × 4 = 36（岁）

答：爸爸今年36岁。

（2）63 ÷ 9 = 7

答：爷爷的年龄是小明的7倍。

（3）63 − 36 = 27（岁）

答：爸爸比爷爷小27岁。

3.（答案不唯一）问题一：小芳用了多少钱？

9 × 3 = 27（元） 5 × 2 = 10（元）

27 + 10 = 37（元）

答：小芳用了37元。

问题二：小美买了什么？（答案不唯一）

8 × 3 = 24（元） 24 + 6 = 30（元）

答：小美买了1份薯条和3个汉堡。

挑战题：第25个图形是※，第48个图形是◎。

【点拨】☆☆◎◎※5个图形一循环，25 ÷ 5 = 5（组），第25个图形是一组的最后一个图形，是※。

5 × 9 = 45（个），48 − 45 = 3（个），第48个图形是一组的第三个图形，是◎。

荣德基 好卷 **参考答案及点拨**

2年级 数学 上（BS版）（微卷）

核心考点突破卷

1. 连加、连减、加减混合运算

一、1.（1）63 44 （2）32 11 左 右

2. 50 18

$$\begin{array}{r} 18 \\ +\ 32 \\ \hline 50 \end{array}$$

个 十 十

3. > < = 4. 31 57 20

二、1. 38 + 32 + 17 = 87 46 − 19 + 24 = 51

$$\begin{array}{r} 38 \\ +\ 3_{1}2 \\ \hline 70 \\ +\ 17 \\ \hline 87 \end{array} \qquad \begin{array}{r} \dot{4}\ 6 \\ -\ 19 \\ \hline 27 \\ +\ 2_{1}4 \\ \hline 51 \end{array}$$

100 − 31 − 9 = 60

$$\begin{array}{r} \dot{1}\,\dot{0}\,0 \\ -\ 31 \\ \hline 69 \\ -\ 9 \\ \hline 60 \end{array}$$

2.

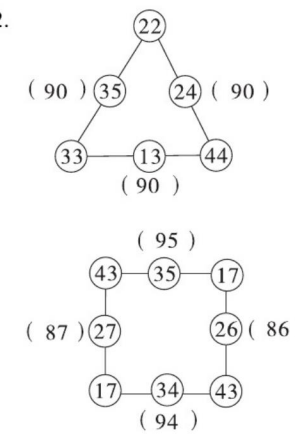

3. 75 80 18 27

三、× 100 − 56 − 18 = 26 × 91 − 28 − 35 = 28

$$\begin{array}{r} \dot{1}\,\dot{0}\,0 \\ -\ 56 \\ \hline \dot{4}\ 4 \\ -\ 18 \\ \hline 26 \end{array} \qquad \begin{array}{r} 28 \\ +\ 3_{1}5 \\ \hline 63 \end{array} \qquad \begin{array}{r} \dot{9}\ 1 \\ -\ 63 \\ \hline 28 \end{array}$$

关注微信公众号“教辅资料站”获取更多学习资料

四、1. 26 + 8 = 34（人）

34 + 26 = 60（人）

答：二班有 34 人参加，两个班一共有 60 人参加。

2. 28 + 34 − 19 = 43（个）

答：涛涛获得 43 个印章。

2. 用 100 以内的加减法解决简单问题

一、1. 43　9　4　38（答案不唯一）

2.（1）100　43　100 − 43 = 57（元）

（2）57　29　57 − 29 = 28（元）

二、

60 − 29	小刚和小美一共跳多少下？
29 + 15	小美跳了多少下？
29 + 15 + 60	小刚比小菲多跳多少下？

三、方法一：（1）23 + 39 = 62（户）

（2）80 − 62 = 18（户）

方法二：（1）80 − 23 = 57（户）

（2）57 − 39 = 18（户）

四、1. 40 + 15 + 30 = 85（元）

答：买门票一共花了 85 元。

2.（1）58 + 36 = 94（元）

100 − 94 = 6（元）

答：用 100 元买玩具飞机和鞋剩下的钱最少，剩下 6 元。

（2）36 + 29 + 35 = 100（元）

答：买玩具飞机、玩具娃娃和玩具熊正好是 100 元。

3.（1）72 − 21 − 25 = 26（个）

76 − 22 − 34 = 20（个）

答：小可第三次投中了 26 个球，丽丽第三次投中了 20 个球。

（2）她的总成绩可能是 73 个、74 个或 75 个。

73 − 19 − 29 = 25（个）

74 − 19 − 29 = 26（个）

75 − 19 − 29 = 27（个）

答：她第三次可能投中了 25 个、26 个或 27 个球。

3. 人民币的认识及简单计算

一、1. 2　5

2. 2　1（答案不唯一）

3. 元　元　角　角　元　角

二、1　5　11　5　8　6　6　9

三、17　6　36　5

四、1.



（圈法不唯一）

2.



（圈法不唯一）

五、



62元

√

六、1.（1）16 + 28 = 44（元）

答：买一个魔方和一架玩具飞机一共 44 元。

（2）100 − 59 = 41（元）

答：找回 41 元。

（3）（答案不唯一）买最贵的两样多少钱？

36 + 59 = 95（元）

答：买最贵的两样 95 元。

2.（1）（答案不唯一）

付 1 张 20 元，1 张 5 元，1 枚 5 角，3 枚 1 角

（2）5 + 26 + 19 = 50（元）

答：涛涛有 50 元正好可以买一本笔记本、一个文具盒和一支钢笔。

4. 初步认识乘法

一、1. 2　6　12

2.（1）6　3　18　6 + 6 + 6 = 18（块）

6 × 3 = 18（块）

（2）3　6　18　3 + 3 + 3 + 3 + 3 + 3 = 18（块）

3 × 6 = 18（块）

3. 3　5　15　3 × 5 = 15（格）

［或 3 + 3 + 3 + 3 + 3 = 15（格）］

【点拨】列乘法算式比列加法算式简单。

二、1. 4 + 4 + 4 + 4 + 4 = 20（根）

4 × 5 = 20（根）

2. 9 + 9 + 9 = 27（个）

9 × 3 = 27（个）

三、

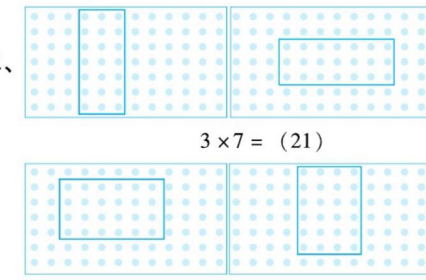

3 × 7 =（21）

4 × 6 =（24）

四、1. 5　3　15　2. 9　4　36

3. 6　7　42　4. 2　5　10

五、

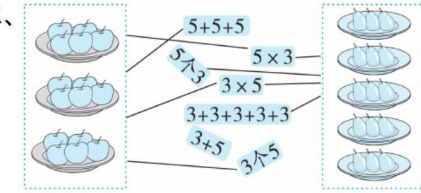

六、1. 4 × 5 = 20（个）　2. 3 × 6 = 18（个）

七、1. 4 × 5 = 20（个）

答：摆 4 个五边形要 20 根小棒。

2.（1）3 × 4 = 12（个）

答：一共有 12 个苹果。

（2）（答案不唯一）一共有多少个同学？

2 × 4 = 8（个）

答：一共有 8 个同学。

5. 图形的变化

一、（　）（√）（　）

（√）（√）（√）

二、



三、1. ③　2. ③（√）

3.



（√）

四、1.



2.

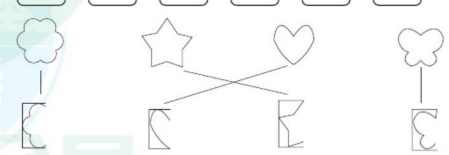

五、1. 上　3　左　6　下　4

2.（部分空答案不唯一）

（1）狮子　右　1　上　2

（2）蛇　上　1　（3）老虎　上　2

6. 2 ~ 5 的乘法口诀

一、1. 30　9

2. 30　20　15　8　10　12

3. >　<　=　>　>　<　=　<

4. 2　9　9　2　3　6　6　3

4　6　6　4　3　8　8　3

二、六　3 × 6 = 18　6 × 3 = 18

九　4 × 9 = 36　9 × 4 = 36

五　5 × 7 = 35　7 × 5 = 35

七　2 × 7 = 14　7 × 2 = 14

八　5 × 8 = 40　8 × 5 = 40

三　3 × 4 = 12　4 × 3 = 12

三、27　12　24　16　2　45　18　35　12　25　5　36

四、2 × 5 = 10　2 × 7 = 14　2 × 4 = 8　5 × 9 = 45

五、1. 3 × 8 = 24（只）　2. 5 × 5 = 25（条）

六、（1）3 × 5 = 15（元）

答：买 5 块点心 15 元。

（2）买 3 包饼干多少钱？或买 7 块点心多少钱？

（3）6 × 3 = 18（元）　20 > 18

答：王阿姨带 20 元钱买 3 瓶果汁够。

（4）（答案不唯一）买 4 盒牛奶多少钱？

4 × 4 = 16（元）

答：买 4 盒牛奶 16 元。

7. 厘米和米的认识

一、1. 5　10　2. 5　3. 6

4. 米　厘米　米　厘米

二、

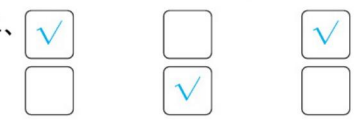

三、2　1　2　3

四、1. 9　7　8

2. 货车　10 + 10 + 8 = 28（厘米）　10 + 10 + 10 = 30（厘米）　28 < 30，用积木搭成的货车可以从桥下通过。

五、1. 4 米 = 400 厘米　3 米 20 厘米 = 320 厘米

400 厘米 > 320 厘米

答：船能顺利通过桥洞。

2.（1）100　（2）30　70

（3）70　30

（4）3

关注微信公众号“教辅资料站”获取更多学习资料

8. 平均分与除法

一、1.

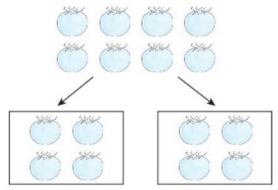

8　2　4

2.

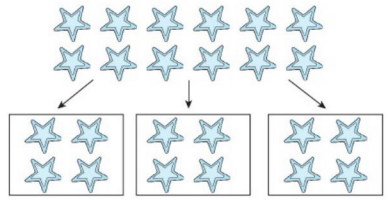

12　3　4

二、1. 8　2. 18　6　3. 5　3

4. 12　8　6　3

三、1.（1）8　16 ÷ 2 = 8（袋）

（2）4　16 ÷ 4 = 4（袋）

被除数　除数　商

16 除以 4 等于 4

（3）2　16 ÷ 8 = 2（袋）

2.（1）6　12 ÷ 2 = 6（人）

（2）2　12 ÷ 6 = 2（组）

四、15 ÷ 3 = 5　12 ÷ 2 = 6　18 ÷ 2 = 9

15 ÷ 5 = 3　12 ÷ 6 = 2　18 ÷ 9 = 2

五、1. 20 ÷ 5 = 4（个）

答：20 元可以买 4 个文具盒。

2. 16 ÷ 8 = 2（双）

答：16 元可以买 2 双拖鞋。

3.（答案不唯一）青青有 30 元，可以买几顶帽子？

30 ÷ 6 = 5（顶）

答：可以买 5 顶帽子。

9. 用 2 ~ 5 的乘法口诀求商及应用

一、1. 4　3　12 ÷ 4 = 3（个）

2. 3　4　12　4　3　12 ÷ 3 = 4（份）

3. ×　+　÷　×　−　÷　×　+

4. 5　6　3　三七二十一　21 ÷ 3 = 7　20 ÷ 4 = 5

四五二十　20 ÷ 5 = 4（最后 3 个空答案不唯一）

二、6　4　6

3　3　4

18　12　24

三六十八　三四十二　四六二十四

三、

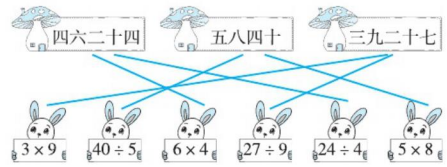

四、1.（1）24 ÷ 6 = 4（个）

答：可以安装 4 个班。

（2）24 ÷ 3 = 8（台）

答：平均每个师傅安装 8 台。

2.（1）4 × 3 = 12（张）

答：做 3 个灯笼要 12 张彩纸。

（2）16 ÷ 4 = 4（个）

答：可以做 4 个灯笼。

3.（1）5　30　5 × 6 = 30（人）

（2）6　30 ÷ 5 = 6（辆）

10. 认识“倍”及解决与倍数有关的问题

一、1. 2　6 ÷ 3 = 2　2. 3　15 ÷ 5 = 3

二、1. ○○○○○○○○　8　2 × 4 = 8（个）

2. ☆☆☆　3　9 ÷ 3 = 3（个）

三、1. 3　21 ÷ 7 = 3　2. 5 × 2 = 10

3. 15　4. 3

四、1.（1）12 ÷ 4 = 3（盒）

答：可以买 3 盒牛奶。

（2）18 ÷ 6 = 3

答：一辆玩具车的价钱是一个电话机的 3 倍。

（3）30 ÷ 6 = 5（个）

答：30 元钱正好可以买 5 个电话机。

（4）4 × 7 = 28（元）　**答：**算盘的价钱是 28 元。

（5）（答案不唯一）

买一辆玩具车和一盒牛奶共多少钱？

4 + 18 = 22（元）

答：买一辆玩具车和一盒牛奶共 22 元。

2.（1）第 3 小组的人数是第 1 小组的几倍？

（2）第 2 小组有多少人？

11. 6 ~ 9 的乘法口诀及应用

一、1. 8 × 9 = 72　9 × 8 = 72

2. 七　九　九　六　八　二十四

3. 18　48

4.（1）28　42　（2）36　63　（3）42　30

5. 9　7　5　8　7　7

二、1. 18　56　72　63　24　42　28　54　45

13　64　14

2. >　>　<　=　3. 24　24　18

4. 4 × 9 = 36　6 × 2 = 12　2 × 9 = 18

6 × 6 = 36　3 × 4 = 12　3 × 6 = 18

（答案不唯一）

三、（答案不唯一）圈一圈略

7 × 6 = 7 × 2 + 7 × 4　7 × 6 = 7 × 1 + 7 × 5

四、1. 7 × 4 = 28（个）

答：贺知章的这首诗一共有 28 个字。

2. 5 × 7 = 35（顶）　35 < 40

答：每人 1 顶帽子不够。

3.（1）6 + 8 = 14（元）

答：需要 14 元。

【点拨】应该用加法计算。

（2）9 × 5 = 45（元）

答：需要 45 元。

（3）（答案不唯一）

买 6 个冰激凌需要多少元？

6 × 4 = 24（元）

答：买 6 个冰激凌需要 24 元。

12. 用乘、除法解决简单问题

一、1. ×　−　×　÷　×(或 ÷)

2. 8　7　7　4　7　4

3. 7

4. 8　32 ÷ 4 = 8（只）

二、1. 72　9　6　8　9　5　9　9

2.

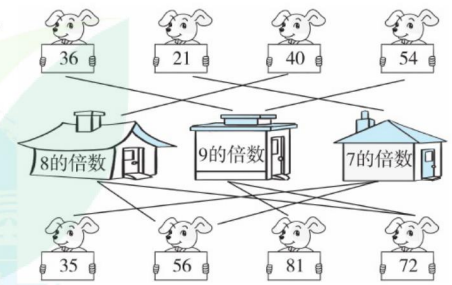

三、1. 5 × 9 = 45（元）

40 ÷ 5 = 8（次）

答：5 人乘坐一次旋转木马需要45 元，旋转木马 40 分可运行 8 次。

2. 3 条　4 个　6 把　8 支

3. 文文：3 × 3 = 9

丁丁：24 ÷ 3 = 8

亮亮：9 × 4 = 36

乐乐：9 × 6 = 54

4.（1）12 ÷ 6 = 2

答：玩具熊的价钱是日记本的 2 倍。

（2）（答案不唯一）

玩具飞机：48 ÷ 8 = 6（架）

答：他可能买了玩具飞机，买了 6 架。

（3）（答案不唯一）

买 4 辆玩具汽车多少钱？

9 × 4 = 36（元）

答：买 4 辆玩具汽车 36 元钱。

方法技能提升卷

1. 巧填数或等式

一、1. <　=　<　=　>

2. 7　6　9　6　5　4　4　6

3.（1）24　42　54　（2）72　54　36

（3）59　83　（4）27　2

（5）21　19　7　17　6

二、4　9　6　3　5　3　3　4　6　5　7　5

三、24　18　99　9　62　9　7　9　6　9　4　6

四、1. 15　39　30　73　94

2. 6　18　9　36

3.（1）

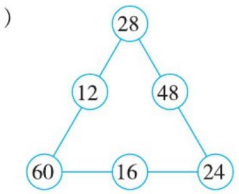

（2）

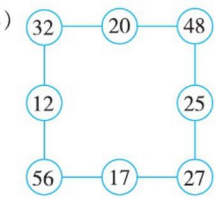

4. 勤 =（1）　奋 =（9）

刻 =（4）　苦 =（7）

【点拨】先填苦，再填刻。

欢 =（9）　度 =（0）

新 =（4）　年 =（5）

关注微信公众号“教辅资料站”获取更多学习资料

【点拨】先填年，再填新，然后填度，最后填欢。

五、

	小红	小明	小云
第一次	31 下	25 下	39 下
第二次	26 下	30 下	（39）下
第三次	30 下	（40）下	18 下
合计	（87）下	95 下	96 下

2. 购物付钱的技巧

一、1. 4　2

2. ＞　＝　＞

3.（1）3 元　（2）4 元 9 角

二、1. ②③④　2. ①⑤

3. ①②⑦　4. ①②③⑤⑥

三、1.　　2.



60 元 6 角　　9 元 5 角

（√）　　（√）

四、1.（1）36 ÷ 6 = 6

答：一个书包的价钱是一盒彩笔的 6 倍。

（2）16 ÷ 8 = 2（个）

答：他买了文具盒，买了 2 个。

（3）（答案不唯一）

买一个书包和一个订书机共需要多少元？

12 + 36 = 48（元）

答：买一个书包和一个订书机共需要 48 元。

2. 玲玲：5 + 5 + 5 = 15（元）

琪琪：10 + 5 = 15（元）

答：玲玲付了 3 张 5 元的纸币，琪琪付了 1 张 10 元，1 张 5 元的纸币。

3. 亮亮：20 元的蛋糕

10 + 10 = 20（元）

答：亮亮买了蛋糕，付了 2 张 10 元纸币。

明明：31 元的娃娃

10 + 10 + 10 + 1 = 31（元）

或 20 + 5 + 5 + 1 = 31（元）

答：明明买了娃娃，付了 3 张 10 元纸币和 1 枚 1 元硬币或付了 1 张 20 元，2 张 5 元纸币和 1 枚 1 元硬币。

东东：5 元的球

答：东东买了球，付了 1 张 5 元的纸币。

4.（答案不唯一）

①付 4 张 20 元，1 张 5 元，3 张 1 元；

②付 8 张 10 元，1 张 5 元，3 张 1 元；

③付 4 张 10 元，2 张 20 元，1 张 5 元，3 张 1 元。

3. 乘法口诀的灵活运用

一、1. 15　20

2. 9　27　54

【点拨】各题目之间是有联系的，分别可以列式为 3 × 3 = 9（个），9 × 3 = 27（个），27 + 27 = 54（个）。

二、1.（1）五九四十五　六九五十四

（2）18　二九十八

81　九九八十一（答案不唯一）

（3）27　三九二十七

72　八九七十二（答案不唯一）

2.

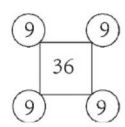

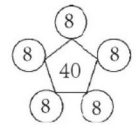

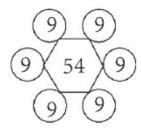

三、（答案不唯一）3 × 8 = 24　5 × 7 = 35　8 × 9 = 72

24 ÷ 3 = 8　35 ÷ 7 = 5　72 ÷ 8 = 9

四、1. 3 × 6 = 18　6 × 3 = 18

2. 4 × 8 = 32　8 × 4 = 32

32 ÷ 4 = 8　32 ÷ 8 = 4

五、1. 8 × 9 = 72（个）　72 ＞ 70

答：不能放满。

2.（1）4 × 5 = 20（元）

答：买 5 把牙刷需要 20 元。

（2）6 ÷ 2 = 3

答：一把剪刀的价钱是一把梳子的 3 倍。

（3）（答案不唯一）

32 ÷ 8 = 4（顶）

答：买 4 顶帽子正好用完 32 元。

4. 用数形结合法解决平均分、倍数问题

一、1. 9

2.（1）2　8

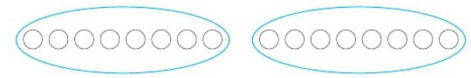

（2）4　4

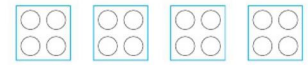

（3）8　2

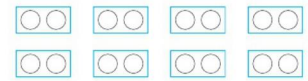

3. 3　茄子　6　黄瓜　4　青椒

二、1.（1）6　2 × 3 = 6　图略

（2）2　12 ÷ 6 = 2

2. 裁判

○○○○○○○○△○○○○○○○○

17 − 1 = 16（个）　16 ÷ 2 = 8（个）

答：每队分 8 个小朋友才公平。

三、3 × 9 = 27

6 × 7 = 42　42 角 = 4 元 2 角

四、1.（1）3 × 9 = 27（下）

答：童童跳了 27 下。

（2）72 ÷ 9 = 8

答：云云跳的是芳芳的 8 倍。

2. 12 + 12 + 12 = 36（把）

36 ÷ 4 = 9（把）　36 ÷ 6 = 6（把）

答：排成 4 排，每排 9 把椅子；还可以排成 6 排，每排 6 把椅子。

【点拨】排法不唯一。

5. 动手操作能力

一、1.（1）50　（2）320　（3）360

2. 补全图案略　房子　蝴蝶　树

二、1. ③　2. ②　3. ③

三、1.



2. 上　1　上　1　上　1　右　3　下　1（部分空答案不唯一）

3.（1）略

（2）（答案不唯一）

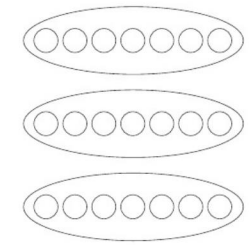

4.（1）

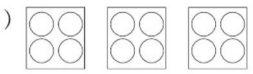

（2）

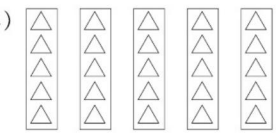

（3）□□□□□

○○○○○○○○○○○○

6. 提取有效信息提出问题、解决问题

一、1. 22　2. 57　3. 35　9　4. 9

二、1. ③　2. ②　3. ②　4. ③　5. ②　6. ②

三、1.（1）86 − 28 − 34 = 24（棵）

答：快乐小组植树 24 棵。

（2）（答案不唯一）

雏鹰小组和阳光小组一共植树多少棵？

28 + 34 = 62（棵）

答：雏鹰小组和阳光小组一共植树 62 棵。

2.（1）（答案不唯一）问题一：买一架玩具飞机的钱可以买几条毛巾？

32 ÷ 8 = 4（条）

答：买一架玩具飞机的钱可以买 4 条毛巾。

问题二：买一个不倒翁可以怎样付钱？

10 + 10 + 5 + 1 + 1 + 1 = 28（元）

答：买一个不倒翁可以付 2 张 10 元，1 张 5 元，3 张 1 元（付钱方法不唯一）。

（2）（答案不唯一）48 ÷ 6 = 8（个）

答：她可能买了杯子，买了 8 个。

3.（答案不唯一）问题一：玲玲队奖的笔的数量是丽丽队的几倍？

32 ÷ 8 = 4

答：玲玲队奖的笔的数量是丽丽队的 4 倍。

问题二：亮亮队奖了多少支笔？

8 × 3 = 24（支）

答：亮亮队奖了 24 支笔。

微信公众号 教辅资料站
关注微信公众号“教辅资料站”获取更多学习资料

好卷

微卷

助冲满分

WEIJUAN ZHUCHONG MANFEN

2 数学 年级 上 (BS版)



- 核心考点突破卷（12套）
- 方法技能提升卷（6套）

关注微信公众号“教辅资料站”获取更多学习资料

目录



核心考点突破卷

1 连加、连减、加减混合运算 …… 01

2 用 100 以内的加减法解决简单问题 …… 03

3 人民币的认识及简单计算 …… 05

4 初步认识乘法 …… 07

5 图形的变化 …… 09

6 2 ~5 的乘法口诀 …… 11

7 厘米和米的认识 …… 13

8 平均分与除法 …… 15

9 用 2 ~5 的乘法口诀求商及应用 …… 17

10 认识“倍”及解决与倍数有关的问题 …… 19

11 6 ~9 的乘法口诀及应用 …… 21

12 用乘、除法解决简单问题 …… 23

方法技能提升卷

1 巧填数或等式 …… 25

2 购物付钱的技巧 …… 27

3 乘法口诀的灵活运用 …… 29

4 用数形结合法解决平均分、倍数问题 …… 31

5 动手操作能力 …… 33

6 提取有效信息提出问题、解决问题 …… 35

参考答案及点拨（见大卷第 37 ~40 页）

关注微信公众号“教辅资料站”获取更多学习资料

1.连加、连减、加减混合运算

班级_____ 姓名_____ 得分_____ 时间：40分钟 满分：100分

一、仔细审题，填一填。(第2题8分，其余每空1分，共20分)

1. (1) 36+27−19=□

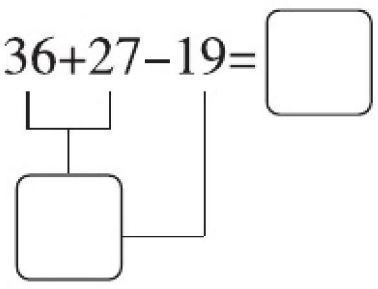

(2) 50−18−21=□

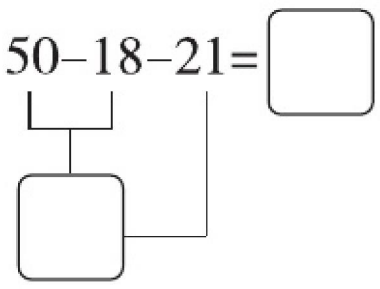

计算时要按照从（　）往（　）的顺序计算。

2. 34−16+32=□

$$\begin{array}{r} 3\ \ 4 \\ -\ 1\ \ 6 \\ \hline \square\ \square \end{array} \qquad \begin{array}{r} \square\ \square \\ +\ \square\ \square \\ \hline \square\ \square \end{array}$$

用竖式计算时，从（　）位算起，个位满十，向（　）位进“1”，个位不够减，向十位借“1”当（　）再减。

3. 在○里填上“>”“<”或“=”。

36+8 ○ 36−8　　25+30+24 ○ 80　　32+23−40 ○ 15

4. 第七届世界军运会在武汉举行，中国代表队取得了很好的成绩，下面是奖牌榜的一部分，请填写完整。

国家	金牌/枚	银牌/枚	铜牌/枚	奖牌总数/枚
巴西	21		36	88
法国	13	20	24	
德国	10	15		45

二、细心的你，算一算。(共45分)

1. 用竖式计算下面各题。(每小题4分，共12分)

38+32+17=　　46−19+24=　　100−31−9=

关注微信公众号“教辅资料站”获取更多学习资料

2. 求出每条线上3个数的和。(每空3分，共21分)

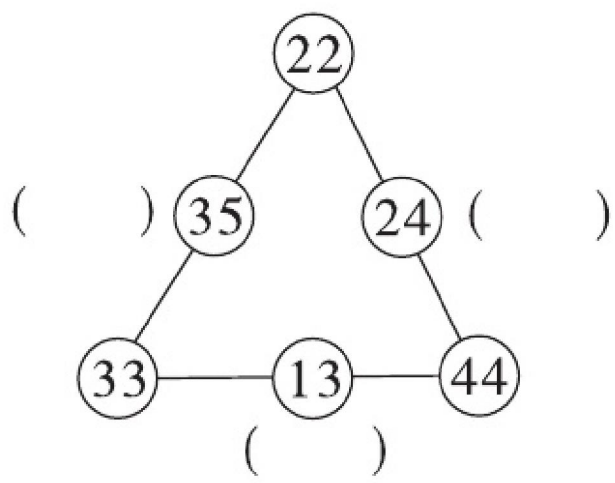

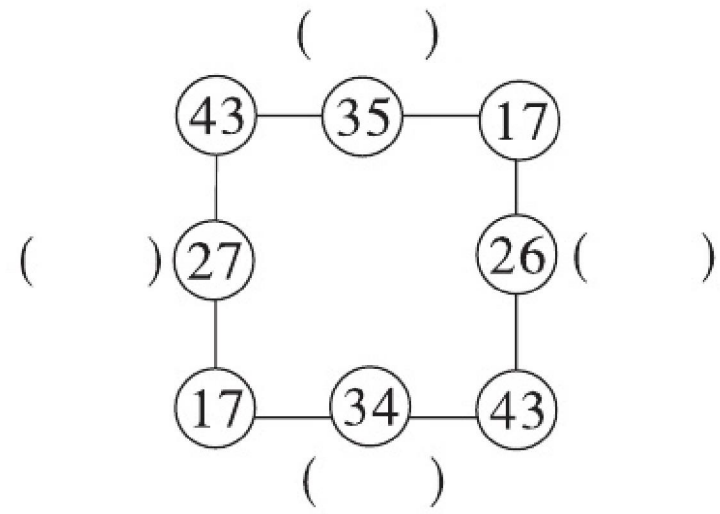

3. 按箭头所指的方向算一算。(每小题6分，共12分)

连加

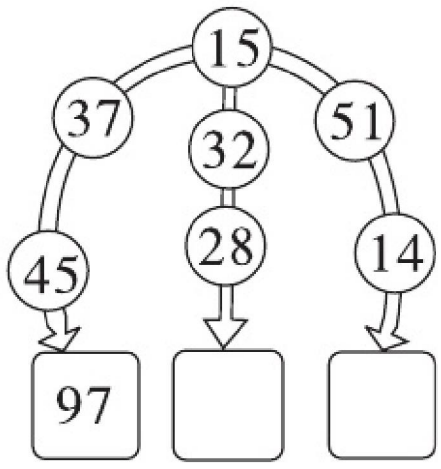

连减

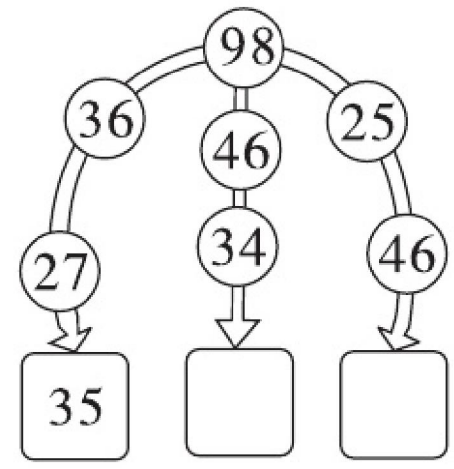

三、下面的计算对吗？把不对的改正过来。(每小题6分，共12分)

$100-56-18=46$

```
  1 0 0
-   5 6
-------
    5 4
-   1 8
-------
    4 6
  (   )
```

改正：

$91-28-35=32$

```
    2 8     9 1
+   3 5   - 6 3
-------   -----
    6 3     3 2
  (   )
```

改正：

四、聪明的你，答一答。(共23分)

1.



二班有多少人参加？两个班一共有多少人参加？(12分)

2. 乐乐在新年游戏中获得28个印章，聪聪获得34个印章，涛涛获得的印章比乐乐和聪聪的印章和少19个，涛涛获得多少个印章？(11分)

关注微信公众号“教辅资料站”获取更多学习资料

2.用100以内的加减法解决简单问题

班级_____ 姓名_____ 得分_____ 时间：40分钟 满分：100分

一、仔细审题，填一填。(每空2分，共20分)

1. 请你将38、4、9、43填在括号里。

A路公交车上原有（　　）人，到达中医院站时下去了（　　）人，又上来（　　）人，这时车上有（　　）人。

2. 下面的超市购物票被弄脏了，算出商品的价格。

A超市

2021年3月8日 10:42

名称	数量	单价(元)	金额(元)
洗手液	1瓶	2●	2●
消毒液	1瓶	★8	★8
		付款	100元
		找零	43元

(1) 先算用的钱：付了（　　）元，找回（　　）元。

列式：_____

(2) 再算商品的价格：2● + ★8 = （　　）

8 + ● = 17

● = 9

洗手液的价格是（　　）元。

计算消毒液的价格列式：_____

二、你知道下面算式的含义吗？连一连。(18分)







60 − 29	小刚和小美一共跳多少下？
29 + 15	小美跳了多少下？
29 + 15 + 60	小刚比小菲多跳多少下？

三、用两种方法解答。(16分)

某市实行垃圾分类后，各小区居民自觉对垃圾分类放置，周日芳芳和亮亮要调查该市福安小区80户居民的垃圾分类情况，芳芳调查了23户，亮亮调查了39户，还剩多少户没有调查？

方法一：(1) 芳芳和亮亮一共调查了多少户？列式：_____

关注微信公众号“教辅资料站”获取更多学习资料

（2）还剩多少户没有调查？列式：_____

方法二：（1）芳芳调查后还剩多少户没调查？列式：_____

（2）还剩多少户没有调查？列式：_____

四、聪明的你，答一答。（共46分）

1. 王阿姨游览了长城、天坛、水立方三个景点，买门票一共花了多少元？（10分）

景点	长城	天坛	水立方
门票	40元/张	15元/张	30元/张

2. 




36元　　29元　　35元　　58元

（1）用100元买哪两样剩下的钱最少？剩下多少元？（8分）

（2）买哪几样物品正好是100元？（8分）

3. 投球比赛。（单位：个）

（1）小可第三次投中了多少个球？丽丽呢？（10分）

	第一次	第二次	第三次	总成绩
小可	21	25	●	72
星星	19	29	●	●
丽丽	22	34	●	76

（2）星星获得第二名（无并列情况），她的总成绩可能是多少？她第三次可能投中了多少个球？（10分）

关注微信公众号“教辅资料站”获取更多学习资料

3. 人民币的认识及简单计算

错题本

班级_____ 姓名_____ 得分_____ 时间：40分钟 满分：100分

一、仔细审题，填一填。(每空2分，共20分)

1. 1张能换（　　）张，也能换（　　）张。

2. 1张能换（　　）张和（　　）张。

3. 在（　　）里填上“元”或“角”。

买一个皮球要10（　　）。　买一瓶牛奶要5（　　）5（　　）。

买一颗糖要5（　　）。　买一个书包要48（　　）8（　　）。

二、我会算。(16分)

9角+6角=（　　）元（　　）角　7元+4元5角=（　　）元（　　）角

86分=（　　）角（　　）分　9角+6元=（　　）元（　　）角

三、按要求写出下面的钱数。(10分)



（　　）元（　　）角　　（　　）元（　　）角

四、怎样付钱正合适？圈一圈。(每小题6分，共12分)

1.



19元7角



2.

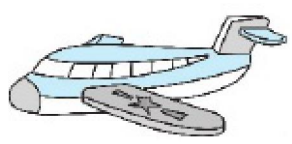

28元



关注微信公众号“教辅资料站”获取更多学习资料

五、给出的钱正好可以买什么？在物品下面画“√”。（16 分）





38元

□



62元

□



12元5角

□

六、我会购物。（共 36 分）

1. 买玩具。

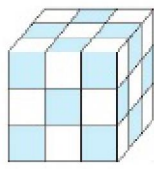

16元



28元



36元



59元

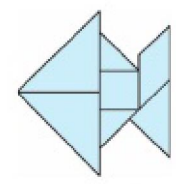

5元8角

（1）买一个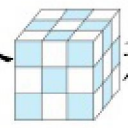和一架一共多少元？（6 分）

（2）乐乐用 100 元买了一个，找回多少钱？（6 分）

（3）你能提出一个数学问题并解答吗？（6 分）

2. 买文具。



5元



26元



25元8角



19元

（1）买一个计算器可以怎样付钱？（9 分）

（2）涛涛有 50 元正好可以买哪几样物品？（9 分）

关注微信公众号“教辅资料站”获取更多学习资料

4.初步认识乘法

班级_____ 姓名_____ 得分_____ 时间：40分钟 满分：100分

一、仔细审题，填一填。(第2题10分，其余每空2分，共24分)

1. 

每份有（　　）个，有（　　）份，一共有（　　）个。

2. 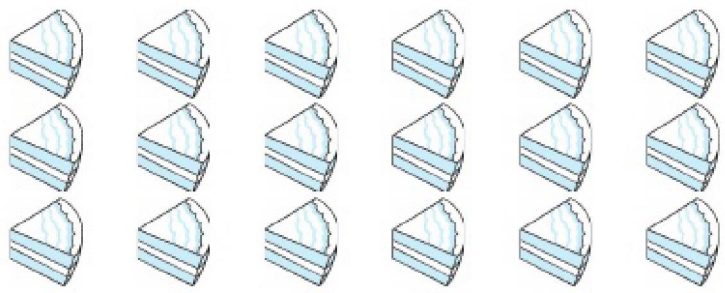(10分)

(1) 横着看，每行有（　　）块，有（　　）行，一共有（　　）块。

□+□+□=□（　　）　　□×□=□（　　）

(2) 竖着看，每列有（　　）块，有（　　）列，一共有（　　）块。

□+□+□+□+□+□=□（　　）　　□×□=□（　　）

3. 青蛙每次跳（　　）格，跳了（　　）次，一共跳了（　　）格，你列出的算式是（　　）。

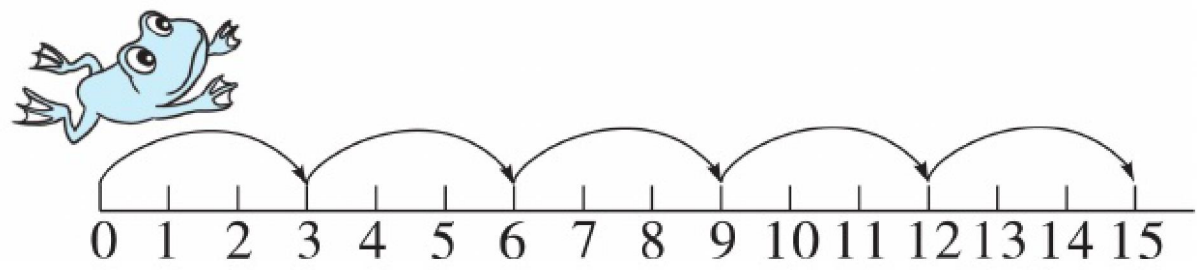

二、看图列式计算。(每小题4分，共16分)

1. 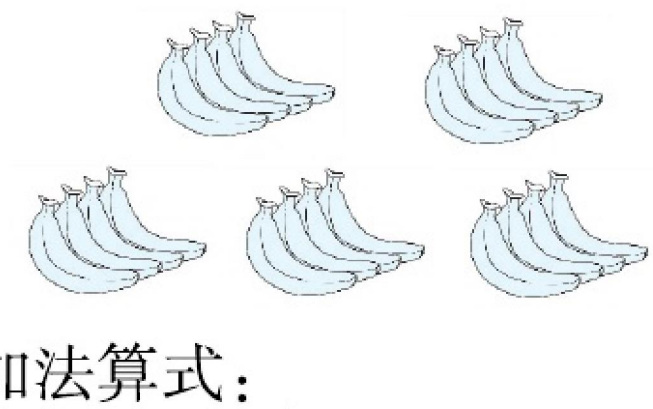

加法算式：_____

乘法算式：_____

2. 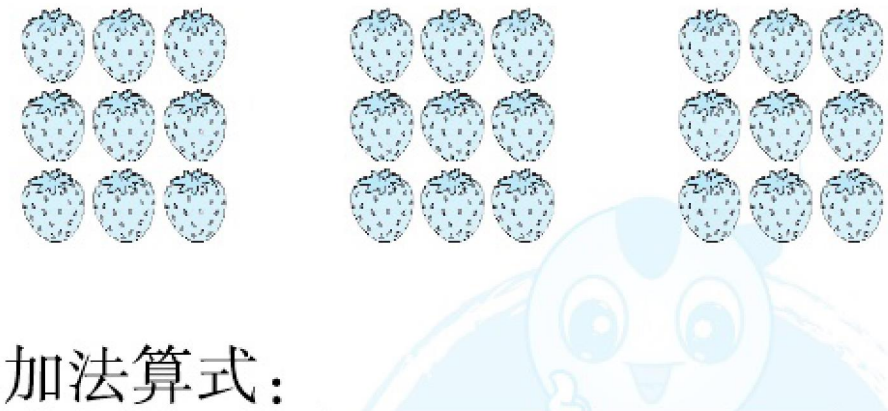

加法算式：_____

乘法算式：_____

3. 

□×□=□（　　）

4. 

□×□=□（　　）

关注微信公众号“教辅资料站”获取更多学习资料

三、分别用两种方法在图上表示算式。(每小题4分，共8分)



3×7=（　　）



4×6=（　　）

四、把下面的加法算式改成乘法算式。(每小题3分，共12分)

1. 5+5+5=（　　）×（　　）=（　　）
2. 9+9+9+9=（　　）×（　　）=（　　）
3. 6+6+6+6+6+6+6=（　　）×（　　）=（　　）
4. 2+2+2+2+2=（　　）×（　　）=（　　）

五、我会连。(14分)



5+5+5

5×3

5个3

3×5

3+3+3+3+3

3+5

3个5

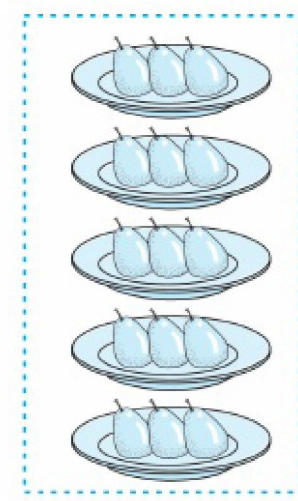

六、聪明的你，答一答。(共26分)

1. 摆4个五边形要多少根小棒？(8分)

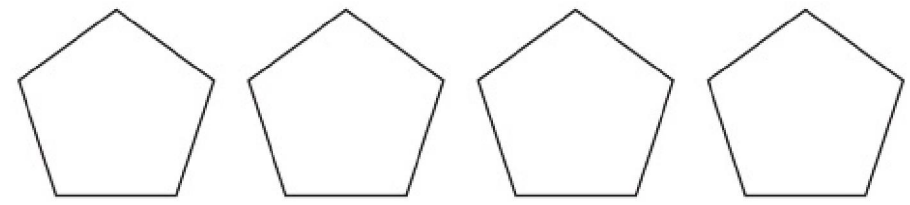

2. 生活中的数学。

(1) 一共有多少个苹果？(9分)





(2) 请你再提一个用乘法解决的数学问题并解答。(9分)

关注微信公众号“教辅资料站”获取更多学习资料

1.巧填数或等式

班级_____ 姓名_____ 得分_____ 时间：40分钟 满分：100分

一、仔细审题，填一填。(每空1分，共28分)

1. 在◯里填上“>”“<”或“=”。

87 −21 −32 ◯ 87 −21 +32　　60 +22 −34 ◯ 60 −34 +22

42 ÷7 ◯ 8　　72 ÷9 ◯ 56 ÷7　　45 ÷9 ◯ 5 ÷5

2. (　　) 里最大能填几?

(　　) ×6 <45　9 ×(　　) <60　76 >8 ×(　　)　50 >8 ×(　　)

(　　) ×3 <16　7 ×(　　) <30　25 >5 ×(　　)　26 >4 ×(　　)

3. 找规律填一填。

(1) (　　), 30, 36, (　　), 48, (　　)。

(2) 81, (　　), 63, (　　), 45, (　　)。

(3) 23, 35, 47, (　　), 71, (　　)。

(4) 1, 16, 3, 8, 9, 4, (　　), (　　)。

(5)

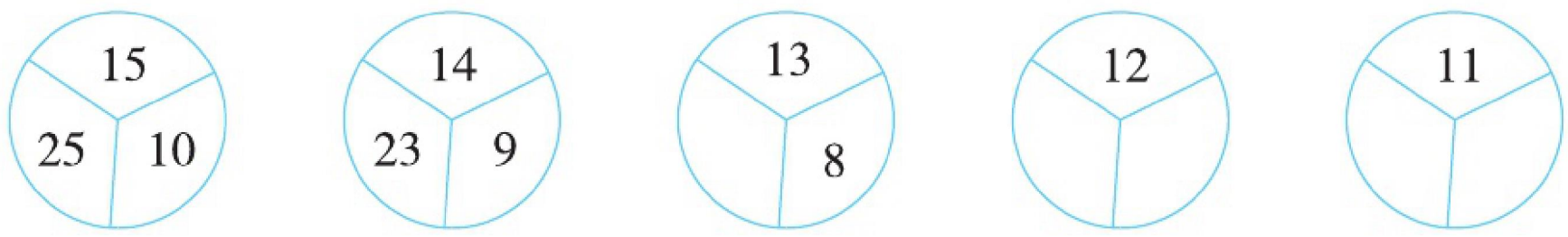

二、填一填。(8分)

3 +4 +5 =(　　) ×3

6 +9 +12 =(　　) ×3

4 +6 +8 =(　　) ×(　　)

2 +5 +8 =(　　) ×(　　)

1 +2 +3 +4 +5 =(　　) ×5

2 +3 +4 +5 +6 =(　　) ×5

4 +5 +6 +7 +8 =(　　) ×(　　)

5 +6 +7 +8 +9 =(　　) ×(　　)

三、在(　　) 里填上合适的数。(12分)

(　　) +38 =62

(　　) ÷2 =9

(　　) −45 =54

(　　) ×5 =45

90 −(　　) =28

54 ÷(　　) =6

关注微信公众号“教辅资料站”获取更多学习资料

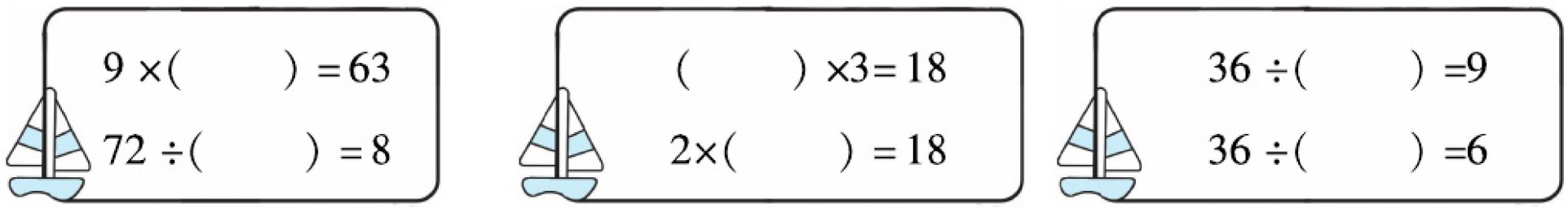

四、细心的你，算一算。(共 43 分)

1. 小猴夺小旗。(5 分)

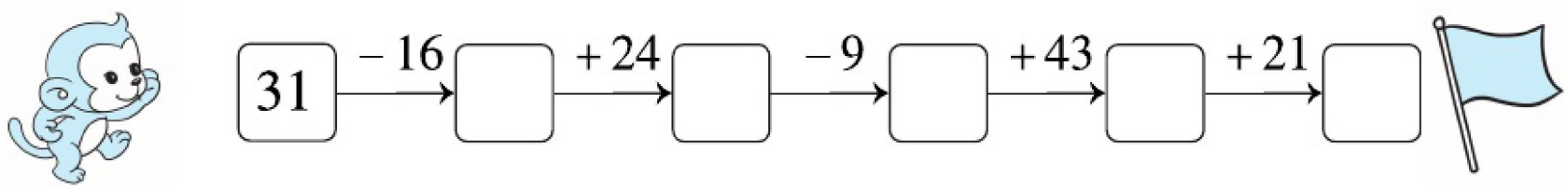

2. 开火车。(8 分)



3. 在◯里填上合适的数，使每条线上三个数的和都等于 100。(14 分)

(1)

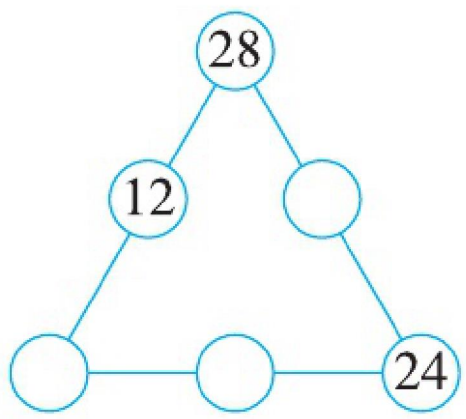

(2)

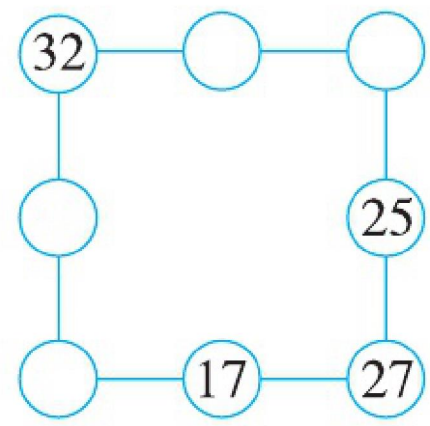

4. 下面的汉字分别代表什么？(相同的汉字代表相同的数字，不同的汉字代表不同的数字)(16 分)

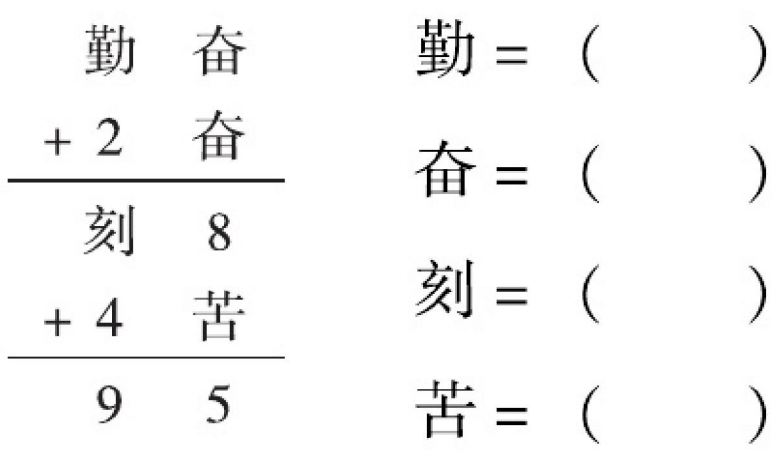

五、跳绳比赛。(9 分)

	小红	小明	小云
第一次	31 下	25 下	39 下
第二次	26 下	30 下	(　　) 下
第三次	30 下	(　　) 下	18 下
合计	(　　) 下	95 下	96 下

关注微信公众号“教辅资料站”获取更多学习资料

2.购物付钱的技巧

班级_____ 姓名_____ 得分_____ 时间：40分钟 满分：100分

一、仔细审题，填一填。(每小题6分，共18分)

1. 一张可以换（　　）张，或（　　）张。

2. 在◯里填上“＞”“＜”或“＝”。

85角 ◯ 5元8角　　6元9角 ◯ 69角　　10元 ◯ 9元8角

3. (1)



　

5角　　2元5角

我一共花了_____钱。

(2)

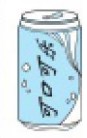　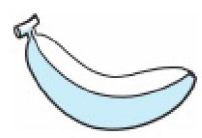

3元　　1元9角

我一共花了_____钱。



二、仔细推敲，选一选。(每小题4分，共16分)

　　　　

16元6角　　26元　　10元5角　　65元　　4元1角

　　　　　　

①　②　③　④　⑤　⑥　⑦

1. 买一顶，可以选（　　）。

2. 买一盒，可以选（　　）。

3. 买一条，可以选（　　）。

4. 买一顶，可以选（　　）。

三、给出的钱刚好能买什么？在下面画“√”。(每小题6分，共12分)

1.



　　

60元6角　　12元8角　　9元

(　　)　　(　　)　　(　　)

2.

　

　　

　　

5元　　36元8角　　9元5角

(　　)　　(　　)　　(　　)

关注微信公众号“教辅资料站”获取更多学习资料

四、聪明的你，答一答。（共 54 分）

1.

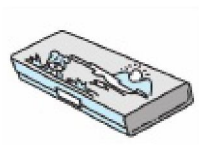

8 元

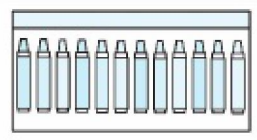

6 元

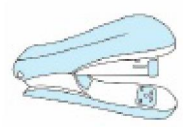

12 元



36 元

（1）一个书包的价钱是一盒彩笔的多少倍？（8 分）

（2）明明买了一种商品，正好花了 16 元，他买了什么？买了多少？（8 分）

（3）请你再提出一个数学问题，并尝试解答。（8 分）

2. 他们各买一个蛋糕，付的钱刚好合适，你知道他们是怎样付钱的吗？（10 分）



3. 亮亮、明明、东东分别买了下面的物品，亮亮付了 2 张纸币，明明付了 3 张纸币和 1 枚硬币，东东只付了 1 张纸币，他们付的钱刚好合适。你知道他们分别买了什么，并怎样付钱的吗？（10 分）



4. 买一条裙子可以怎样付钱？（写出 3 种）（10 分）



（各若干张）



关注微信公众号“教辅资料站”获取更多学习资料

期末必备考点大盘点（二）

一. 加与减

100以内数的连加运算

先加几个十，再加几个一，最后合并。

49+16+32=97

40+10+30=80

9+6+2=17

80+17=97

先把前两个数相加，再用它们的和加上第三个数。

49+16+32=97

$\begin{array}{r} 49 \\ +\ 16 \\ \hline 65 \end{array}$ $\begin{array}{r} 65 \\ +\ 32 \\ \hline 97 \end{array}$

用竖式直接把三个数相加。

49+16+32=97

$\begin{array}{r} 49 \\ 16 \\ +\ 32 \\ \hline 97 \end{array}$

100以内数的连减运算

按照从左到右的顺序，先求出前两个数的差，再减去第三个数。

75−46−16=13

$\begin{array}{r} 75 \\ -\ 46 \\ \hline 29 \end{array}$ $\begin{array}{r} 29 \\ -\ 16 \\ \hline 13 \end{array}$

先把两个减数加起来，再用被减数减去它们的和。

75−46−16=13

$\begin{array}{r} 46 \\ +\ 16 \\ \hline 62 \end{array}$ $\begin{array}{r} 75 \\ -\ 62 \\ \hline 13 \end{array}$

100以内数的连加减混合运算

按照从左到右的顺序依次计算。

67−25+28=70

$\begin{array}{r} 67 \\ -\ 25 \\ \hline 42 \end{array}$ $\begin{array}{r} 42 \\ +\ 28 \\ \hline 70 \end{array}$

二. 购物

认识人民币

人民币的单位有元、角、分。

1元=10角，1角=10分，相邻两个单位间的进率是10。

在进行人民币的兑换时可以根据数的组成来解决。

1张10元可以换10张1元或2张5元。

1张5元可以换2张2元或5张1元。

（1）相同单位的数可以直接相加减；

（2）单位不同时，要先统一单位，再计算。

人民币之间的兑换

人民币单位间的换算：

1元6角=（16）角

简单的计算

1元 3元1角

1元+3元1角=4元1角

付款

26元 31元 23元 41元

付款方法有多种，无论用什么方法付款，付款的总额都是一样的。

买1个50元的书包，可以怎样付钱？

50 = 20+20+10

= 20+10+10+10

= 20+20+5+5

= ……

三. 数一数与乘法

同数连加

一行一行地数：4+4+4=12

一列一列地数：3+3+3+3=12

乘法算式的含义

3×5可以表示：

3+3+3+3+3或5+5+5

列乘法算式时，把每组数量和组数分别写在乘号的两侧。

简单应用

树上一共有多少只小鸟？

3×3=9（只）

认识乘法

加法：4+4+4=12（3个4）

乘法：3×4=12

4×3=12

$\begin{array}{ccccc} 4 & \times & 3 & = & 12 \\ \text{乘数} & \text{乘号} & \text{乘数} & & \text{积} \end{array}$

读作：4乘3等于12。

四. 图形的变化

平移

物体沿着直线运动，而本身的大小、形状和方向都不发生改变，这种现象就是平移。

只有形状、大小、方向完全相同的图形通过平移才能相互重合。

旋转

物体绕着一个点或轴做圆周运动的现象叫旋转。

物体旋转后，它的形状、大小不变，但是方向和位置发生了变化。

轴对称

五. 2~5的乘法口诀

5的口诀

5的乘法口诀共9句，相邻两句口诀得数相差5。

一五得五 +5 二五一十 +5 三五十五

2的口诀

2的乘法口诀共9句，相邻两句口诀得数相差2。

二二得四 +2 二三得六 +2 二四得八

3的口诀

3的乘法口诀共9句，相邻两句口诀得数相差3。

三四十二 +3 三五十五 +3 三六十八

4的口诀

4的乘法口诀共9句，相邻两句口诀得数相差4。

四五二十 +4 四六二十四 +4 四七二十八

解决问题

如：一共有多少只小猴子？

2×6=12（只）

六. 测量

自选工具测量

1拃（zhǎ） 1个脚长

量比较短的物体，可以用“厘米”作单位。厘米可以用“cm”表示。

扫帚高80厘米

量比较长的物体，可以用“米”作单位。米可以用“m”表示。

客车长4米

进率

1米=100厘米

99厘米<1米

认识厘米

认识米

测量方法

（1）把物体放正；

（2）把尺子的0刻度对准物体的左端；

（3）读出物体的右端所对的刻度数。

对准0刻度 读数

量得铅笔长6厘米

从尺子的0刻度开始画起，是几厘米长的线就画到几厘米的地方。

画线方法

七. 分一分与除法

平均分的意义

把一些物品分成几份，每份分得同样多叫平均分。

平均分的分法

按指定的份数平均分。

平均分成2份。

按每几个一份平均分。

每3串一份平均分。

把分的过程记录在表格中，最后算出结果。

38块糖果平均分给3个人。

	生1	生2	生3
第1次	5	5	5
第2次	5	5	5
第3次	2	2	2

每人分到12块，还剩两块。

大数目物品的平均分

认识除法

把一些物品平均分成几份，求每份是多少或把一些物品按每几个一份来分，求可以分成几份，用除法计算。

12 ÷ 2 = 6

被除数 除号 除数 商

读作：12除以2等于6。

用口诀求商

用乘法口诀求商时，想除数和几相乘得被除数，商就是几。

求商的方法：

8÷4=[2]

想：（二）四得八

倍数问题

求一个数是另一个数的几倍，用除法计算；求一个数的几倍是多少，用乘法计算。

书包的价钱是铅笔盒的几倍？

45元 9元

45÷9=5

八. 6~9的乘法口诀

6的口诀

6的乘法口诀共9句，相邻两句口诀得数相差6。

五六三十 +6 六六三十六 +6 六七四十二

6×8=6×3+6×5 推算

7的口诀

7的乘法口诀共9句，相邻两句口诀得数相差7。

四七二十八 +7 五七三十五 +7 六七四十二

7×9=7×4+7×5 推算

8和9的口诀

8、9的乘法口诀中，相邻两句口诀得数相差8、9。

五八四十 +8 六八四十八 +8 七八五十六

三九二十七 +9 四九三十六 +9 五九四十五

规律

9×7=70−7

9×8=80−8

9×9=90−9

做个乘法表

用1~9的乘法口诀做表，两个乘数分别按1~9的顺序相乘。

九. 除法

用乘法口诀求商

想“除数×（ ）=被除数”，除数是几就想几的乘法口诀，根据乘法口诀求出商。

48 ÷ 8 = [6]

想：（六）八四十八，商是6。

最大能填几

利用相关的乘法口诀，可以解决一个乘数与一个未知乘数的积最接近且小于一个数的问题。

5×（ ）<24

想：5×4=20<24

5×5=25>24

5×（4）<24

用除法计算

（1）求一个数里面有几个另一个数；

（2）把一个数平均分成若干份，求每份是多少；

（3）求一个数是另一个数的几倍。

用乘法计算

（1）求一个数的几倍是多少；

（2）求几个几是多少。

解决问题

笔记本 8元 4元

（1）买9本笔记本需要多少钱？

8×9=72（元）

（2）24元可以买几支笔？

24÷4=6（支）

关注微信公众号“教辅资料站”获取更多学习资料

关注荣德基教育微官网，获取海量学习资源。
荣德基教育微官网：http://www.rongdejy.cn
荣德基天猫旗舰店：http://rongdejy.tmall.com
客服热线：182 1039 5892

大卷全程培优　微卷助冲满分





2年级 数学 上（BS版）

图书在版编目（CIP）数据

好卷. 数学 2 年级. 上 . BS 版 / 荣德基主编. —合肥 . 安徽教育出版社，2019（2021.5 重印）
ISBN 978-7-5336-8911-6

Ⅰ. ①好… Ⅱ. ①荣… Ⅲ. ①小学数学课—习题集
Ⅳ. ①G624

中国版本图书馆 CIP 数据核字（2019）第 056001 号

好卷 · 2 年级数学上（BS 版）
HAOJUAN · 2 NIANJI SHUXUE SHANG（BS BAN）

社 长：李东平
质量总监：武春喜
责任编辑：章慧敏
责任校对：陶雪冬
装帧设计：典点视觉
责任印制：梁建印务

出版发行：时代出版传媒股份有限公司　安徽教育出版社
地　　址：合肥市蜀山区翡翠大道西路 398 号　邮编：230601
网　　址：http://www.ahep.com.cn
营销电话：（0551）63533018，63533015
排　　版：河北宝石博图文化传媒有限公司
印　　刷：郑州市欣晟印刷有限公司

开　　本：880×1240　1/8
印　　张：7.5
字　　数：225 千字
版　　次：2019 年 5 月第 1 版　2021 年 5 月第 3 次印刷
定　　价：34.90 元

（如发现印装质量问题，影响阅读，请与本社营销部联系调换）

声明　在图书编写过程中，我们参考并引用了部分资料。有部分文字及图片的作者尚未取得联系，特此声明，敬请这些作者及时与我们联系，以便我们支付稿酬。

定价：34.90元

关注微信公众号“教辅资料站”获取更多学习资料