教辅资料站
电子教辅 试卷练习
知识总结 备课资源
大卷
扫码关注获取更多学习资料

大卷全程培优 微卷助冲满分

好卷

DAJUANQUANCHENGPEIYOU WEIJUANZHUCHONGMANFEN

大卷全程培优 | 单元培优 测试卷（7套） | 归类培优 测试卷（3套） | 期中（末）培优 测试卷（3套）

微卷助冲满分 | 核心考点 突破卷（2套） | 期末冲刺 拾分卷（4套）



二年级

数学（上）（SJ版）

吉林教育出版社

海量资源"一码"搞定



教师专属福利

✓让您教学更轻松

1. **PPT版教学课件** "预、授、练、考"全环节，个性可改。
2. **点典教案** PDF版和Word版。
3. **备课资料包** 图文资料、音视频素材、拓展阅读、说课稿，一应俱全。
4. **课文朗读音视频**
5. **听力测试音频**
6. **Word版试题库** 《典中点》《好卷》中好题新题任你用。

✓惊喜活动等您来

7. **荣德基图书免费领** 样书直接到您手。
8. **反馈问题得好礼** 反馈图书质量问题，荣德基图书免费用。
9. **分享资源得好礼** 邀您投递研究成果、优质资源、好题好卷，惊喜回报等您拿。
10. **诚邀加盟** 有机会加盟中国品牌创新发展工程推荐品牌《点拨》《典中点》编委会。

学生·家长助力服务

1. **重难知识微课** 识字微课、阅读微课、习作微课、口语交际微课、方法微课。
2. **《典中点》"极速提分法"习题微课**
3. **《好卷》附加题精讲微课**
4. **写字微课** 笔顺笔画演示、写字方法指导。
5. **音视频** 课文朗读、词语报听写、推荐阅读。

好卷 =《大卷》+《微卷》

大卷 全程培优 微卷 助冲满分

不是所有的试卷都叫"好卷"，期末提分才是硬道理！

大卷 同步培优卷

✦单元培优测试卷

第一单元 100以内的加法和减法（三） …… 1
第二单元 平行四边形的初步认识 …… 3
第三单元 表内乘法（一） …… 5
第四单元 表内除法（一） …… 7
期中测试卷 …… 9
第五单元 厘米和米 …… 11
第六单元 表内乘法和表内除法（二） …… 13
第七单元 观察物体 …… 15

✦归类培优测试卷

1. 计算 …… 17
2. 解决问题 …… 19
3. 图形与几何 …… 21

✦综合培优测试卷

1. 期末测试卷（一） …… 23
2. 期末测试卷（二） …… 25

微卷 专项拔尖卷

✦核心考点突破卷 可阶段或期末用

1. 100以内的连加、连减、加减混合计算 …… 1
2. 100以内加、减法的实际问题 …… 3
3. 平行四边形的初步认识 …… 5
4. 乘法的初步认识 …… 7
5. 1~6的乘法口诀计算 …… 9
6. 表内乘法的实际问题 …… 11
7. 除法的初步认识 …… 13
8. 1~6的乘法口诀求商 …… 15
9. 表内除法的实际问题 …… 17
10. 厘米和米 …… 19
11. 7~9的乘法口诀和用乘法口诀求商 …… 21
12. 观察物体 …… 23

✦期末冲刺抢分卷

1. 高频考点抢分卷 …… 25
2. 易错题抢分卷 …… 27
3. 常见难题抢分卷 …… 29
4. 新题型抢分卷 …… 31

| 大卷答案▶见大卷第27~32页 / 微卷答案▶见大卷第33~36页 |

关注微信公众号"教辅资料站"获取更多学习资料

荣德基 好卷
二年级 数学 上（SJ版）
单元培优测试卷

第一单元 100以内的加法和减法（三）

精解精析
时间：60分钟 满分：100+10分

题号	一	二	三	四	五	六、附加题	总分
得分							

姓名 学号 班级 学校
请不要在密封线内答题哦！

一、仔细审题，填一填。（每空1分，共23分）

1. 第1行：
第2行：
从第1行拿走（　　）个苹果，两行苹果的个数就同样多。
给第2行再添上（　　）个苹果，两行苹果的个数就同样多。
从第1行拿（　　）个苹果摆到第2行，两行苹果的个数就同样多。

2. 在○里填上“>”或“<”。
76−8 ○ 65　　54 ○ 47+8　　65−7−30 ○ 23
62−4 ○ 56　　34+50 ○ 88　　48 ○ 84−40+40

3. 比35多18的数是（　　），89比（　　）多12。
（　　）比42少26，比32少15的数是（　　）。

4. 红红三天要看完一本98页的故事书，第一天看了28页，第二天看了46页，红红第三天要看（　　）页。

5. 一根绳子原来长30米，第一次剪去10米，第二次剪去6米。现在这根绳子比原来短了（　　）米。

6.


小雨最多踢了（　　）下，小乐最少踢了（　　）下。

7. 小红有22颗糖，小花有16颗糖，小花比小红少（　　）颗。小红给小花3颗后，两人一共有（　　）颗糖。

8.
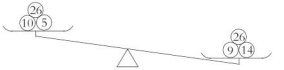

方法一：交换（　　）和（　　），天平的两端就平衡了。
方法二：交换（　　）和（　　），天平的两端就平衡了。

二、仔细推敲，选一选。（将正确答案的序号填在括号里）（每小题2分，共12分）

1. 下列不能列式为55−37的是（　　）。
①55比37多多少　　②比55少37的数是多少
③55与37的和是多少

2. 小华上午在饲养棚里拾了26个鸡蛋，下午拾了20个鸡蛋和25个鸭蛋。算式“26+20−25”求的是（　　）。
①小华一天一共拾了多少个蛋　　②小华一天一共拾了多少个鸡蛋
③拾的鸡蛋比鸭蛋多多少个

3. 二（1）班有女生24人，男生比女生少6人，二（1）班共有学生（　　）人。
①30　　②54　　③42

4. □ −6 → □ −6 → □ −6 → □ −6 → □ −6 → 18，左起第一个□里应该填（　　）。
①42　　②48　　③54

5. 贝贝原来有10支铅笔，送给齐齐2支后，两人的铅笔就同样多，原来齐齐有（　　）支铅笔。
①12　　②8　　③6

6. 玲玲买了三件不同的玩具，其中最贵的一件是25元，最便宜的一件是10元。估一估，三件玩具一共的价钱在（　　）元之间。
①35 ~ 40　　②40 ~ 45　　③45 ~ 60

三、细心的你，算一算。（共26分）

1. 直接写出得数。（每小题1分，共8分）

8+52 =	64−8 =	34+40 =	52−6−20=
75−9 =	72−30 =	67+9 =	28+5+7=

微信公众号 教辅资料站
关注微信公众号“教辅资料站”获取更多学习资料

2. 列竖式计算。（每小题 3 分，共 12 分）

29+48−52=　　80−35−27=　　39+45+9=　　76−47+31=

3. 看图列式计算。（每小题 3 分，共 6 分）



□ ○ □ = □（本）　　□ ○ □ = □（人）

四、操作题。（每小题 3 分，共 6 分）

1. 在横线上画○，比□少 3 个，○有（　　）个。

□□□□□□□□□□

_____

2. 在横线上画△，比□多 4 个，△有（　　）个。

□□□□□□□□□

_____

五、聪明的你，答一答。（共 33 分）

1._____，苹果树比梨树少 25 棵，李叔叔一共种了多少棵果树？从下面选择一个合适的条件，在括号里打“√”，再列式解答。（6 分）

①李叔叔养了 36 只鸡（　　）　②李叔叔种了 36 棵桃树（　　）

③李叔叔摘了 36 箱梨（　　）　④李叔叔种了 36 棵梨树（　　）

2. 根据给出的信息提出相应的问题，并解答。



（1）问题：_____　解答：_____（4 分）

（2）问题：_____　解答：_____（4 分）

3.（1）两天一共借出多少本书？（3 分）



（2）原来一共有多少本书？（3 分）

4. 车上原来有 45 人，现在车上有多少人？（6 分）



5. 丽丽带 50 元钱去文具店。根据算式“50−8−20”结合给出的信息提出一个数学问题并解答。



（1）问题：_____（3 分）

（2）50−8−20=_____（元）。（4 分）

六、附加题：天才的你，试一试。（10 分）

有三根木条，分别长 30 厘米、20 厘米、40 厘米，把三根木条连成一根，接头部分的长都是 5 厘米，连接后长多少厘米？

关注微信公众号“教辅资料站”获取更多学习资料

第二单元 平行四边形的初步认识

题号	一	二	三	四、附加题	总分
得分					

一、仔细审题，填一填。（第2小题6分，其余每空1分，共30分）

1. 数一数，再填表。

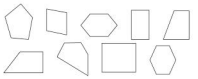

四边形	五边形	六边形	合计
（　）个	（　）个	（　）个	（　）个

2. 下面的图形中，哪些是平行四边形？在正确图形下面的（　　）里画“√”

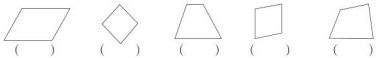

（　）　（　）　（　）　（　）　（　）

3. 把一张三角形的纸，按下面的方法折一折，得到的图形分别是几边形？

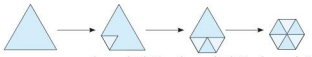

（　）边形　（　）边形　（　）边形

4.（1）一副七巧板有（　　）块，其中有（　　）个三角形。

（2）七巧板中，（　　）和（　　）的大小相等，（　　）和（　　）的大小也相等。

（3）从七巧板中选2块，（　　）和（　　）可以拼成一个平行四边形，（　　）和（　　）也可以拼成一个平行四边形。

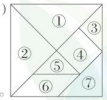

5. 最少用（　　）根同样长的小棒可以围成平行四边形，最少用（　　）根同样长的小棒可以围成六边形。

6.  把这个图形沿虚线剪开，可以拼成（　　）形，还可以拼成（　　）形。

7. 下图中，右边的（　　）和（　　）能拼成左边的图形。

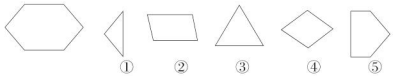

8.  左图中一共有（　　）个平行四边形。

二、仔细推敲，选一选。（将正确答案的序号填在括号里）（每小题2分，共12分）

1. 用一副七巧板拼成右图，图中有（　　）个四边形。



①2　②3　③4

2. 把一个三角形剪去一个角，剩下的图形不可能是（　　）。

①三角形　②四边形　③五边形

3. 两个完全相同的三角形，一定能拼成（　　）。

①正方形　②长方形　③平行四边形

4. 将一张正方形的纸对折两次，不能折出（　　）。

①三角形　②长方形　③正方形　④平行四边形

5. 用木条钉成下面的形状，能拉成平行四边形的是（　　）。

①三角形　②长方形　③五边形

6. 沿着下面每张长方形纸上的虚线剪一剪、拼一拼，不能拼出平行四边形的是（　　）。

①  　②  　③ 

三、操作题。（共58分）

1. 下面是街心花园的平面示意图。请将四边形建筑涂成红色，五边形建筑涂成黄色，六边形建筑涂成蓝色。（6分）

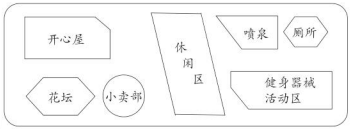

街心花园

姓名 学号 班级 学校
请不要在密封线内答题哦！
关注微信公众号“教辅资料站”获取更多学习资料

2. 在钉子板上画一个平行四边形、长方形和正方形。（6 分）

3. 分一分，画一画。（每小题 3 分，共 18 分）



分成一个三角形和一个四边形



分成两个四边形



分成两个平行四边形



分成三个三角形



分成一个三角形和一个五边形



分成一个四边形和一个五边形

4. 在一张长方形纸上剪下一个三角形，剩下的可能是什么图形？在图上用线画一画，再写一写。（每小题 2 分，共 6 分）



剩下的是（　　）形



剩下的是（　　）形



剩下的是（　　）形

5. 数一数，下面的图形各是几边形？（每小题 2 分，共 4 分）

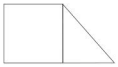

（　　）边形

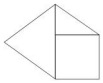

（　　）边形

6. 下面的图形分别是用几个与涂色部分相同的小三角形拼成的？（每小题 2 分，共 6 分）



（　　）个

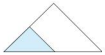

（　　）个



（　　）个

7. 用 4 根小棒可以摆出一个平行四边形，仿照下面的样子，你能用 7 根小棒摆出两个平行四边形吗？画一画。（4 分）

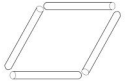

8. 下面的图形中有（　　）个四边形。将一些四边形按顺序连成一条路线，保证能让小猴吃到桃。（8 分）





四、附加题：天才的你，试一试。（10 分）

如下图，只移动 3 根火柴棒，使图中的 3 个三角形变成 5 个三角形。



关注微信公众号“教辅资料站”获取更多学习资料

1.计算

题号	一	二	三	四	五	六	七.附加题	总分
得分								

一、仔细审题，填一填。（第5题1分，第6题6分，其余每空1分，共33分）

1.



（　）个（　）相加

加法算式：（　　）

乘法算式：（　　）或（　　）

2. 2个6相加的和是（　　），2个6相乘的积是（　　）；

4个6比5个6少（　　），7个6比3个6多（　　）。

3.

乘数	5	7		7
乘数	4		8	
积		42	56	28

4. 在○里填上“>”“<”或“=”。

55−17○24　　66○100−35　　28+13○40

56+21○56+27　　94−38○98−34　　49+13○45+13

5. 把加法算式改写成乘法算式。

8+8+8+4+4＝（　　）×（　　）=（　　）

6. 找规律，填一填。

3×5+1=（　　）　　4×6+1=（　　）　　5×7+1=（　　）

4×4=（　　）　　5×5=（　　）　　（　　）×（　　）=（　　）

7. 在跳绳比赛中，贝贝两次一共跳了46下，齐齐两次一共跳了54下，乐乐第一次跳了28下，第二次至少要跳（　　）下才能获得三个人中的第一名。

8.

（1）如果每人分3个梨，可以分给（　　）个人。

（2）如果平均分给3个人，每人可以分得（　　）个梨。

（3）我还可以这样分：如果每人分（　　）个，可以分给（　　）个人；如果平均分给（　　）个人，那么每人分（　　）个梨。

二、仔细推敲，选一选。（将正确答案的序号填在括号里）（每小题2分，共10分）

1. 下面表示平均分的是（　　）。



①　②　③

2. 7×9+9可以用下面算式（　　）表示。

①7×9　　②9×9　　③8×9

3. 求右图一共有多少个○，正确的列式为（　　）。

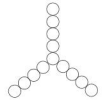

①4×3+1　　②5×3　　③4×3

4. 小明有54块糖，每次从中拿走9块，多少次可以拿完？小红在解决这道题目时，想到以下两种方法。

方法一：54−9−9−9−9−9−9=0（6个9）　答：6次可以拿完

方法二：54÷9=6（次）　答：6次可以拿完。

这两种方法中，（　　）。

①只有方法一正确　　②只有方法二正确　　③方法一和方法二都正确

5. 下面是丽丽计算85−43+37的过程，下面说法正确的是（　　）。

85−43+37=5

4 3	8 5
+ 3 7	− 8 0
8 0	5

①丽丽的计算是正确的，先算43+37，计算更简便

②丽丽的计算是错误的，她没有按照从左往右的顺序依次计算

③丽丽的计算是正确的，可以先算减法也可以先算加法

关注微信公众号“教辅资料站”获取更多学习资料

三、细心的你，算一算。（共 17 分）

1. 直接写出得数。（每小题 1 分，共 8 分）

3×9=	48+9=	3×3+6=	4×9÷6=
25÷5=	42÷6=	5×6−4=	54÷9×5=

2. 用竖式计算。（每小题 3 分，共 9 分）

75−18−26=　　22+18−34=　　90−58+24 =

四、动手操作。（共 8 分）

1. 用两种方法画○表示 2×3。（4 分）

方法一：_____。

方法二：_____。

2. 用两种方法画△表示 8÷2。（4 分）

方法一：_____。

方法二：_____。

五、看图列式计算。（每小题 4 分，共 8 分）

1.

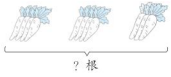

□×□+□=□（　　）　　□×□−□=□（　　）

2.

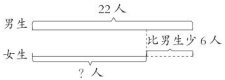

□○□=□（　　）

六、聪明的你，答一答。（共 24 分）

1. 二（1）班小朋友做了 36 朵红花，25 朵黄花。送给幼儿园 32 朵花，还剩多少朵花？（4 分）

2. 学校大道两侧有一些花，运走 26 盆后，剩下的盆数比运走的多 22 盆。

（1）大道两侧还剩多少盆花？（5 分）

（2）剩下的每次搬走 6 盆，多少次可以搬完？（5 分）

3.

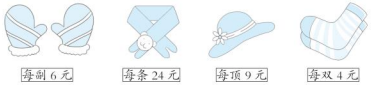

（1）妈妈买一条围巾，付了 5 张 5 元，应找回多少元？（5 分）

（2）王阿姨带的钱，正好可以买 2 顶帽子。如果用这些钱买手套，可以买多少副？（5 分）

七、附加题：天才的你，试一试。（10 分）

奶奶买回的糖不足 20 块，3 块 3 块地数还多 2 块，5 块 5 块地数还差 3 块。奶奶买回多少块糖？

自己说说

老师点评

家长点评

微信公众号
教辅资料站

关注微信公众号“教辅资料站”获取更多学习资料

荣德基 好卷 综合培优测试卷

1. 期末测试卷（一）

二年级 数学 上（SJ版）

时间：60分钟　满分：100+10分

题号	一	二	三	四	五	六、附加题	总分
得分							

一、仔细审题，填一填。（第1题8分，其余每空1分，共28分）

1.（1）



每筐有（　　）个，有（　　）筐，一共有（　　）个。

（2）□○□=□（　　）

有15根香蕉，平均分成了（　　）份，每份（　　）根；

有15根香蕉，每（　　）根一份，分成了（　　）份。

2. 从56里面连续减去8，需要减（　　）次得0。

3. 4个8比5个9少（　　），比3个6多（　　）。

比78少25的数是（　　），（　　）比65多25。

4. 在括号里填上合适的单位名称。

（1）一捆绳长30（　　）。　（2）床的长约为2（　　）。

（3）一根筷子长约22（　　）。（4）楼房每层高约3（　　）。

5. 在○里填上“>”“<”或“=”。

34+15○43+15　　80厘米○8米

8×5−7○3×8　　100厘米○1米

6.

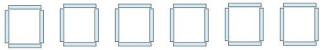

上图中的这些正方形一共由（　　）根小棒摆成；如果用这些小棒摆  ，可以摆（　　）个。

7. 有二十几个苹果，平均分给3个小朋友，每人分得的苹果同样多，这些苹果最少有（　　）个，最多有（　　）个。

8. 东东坚持用画“正”字的方法记录一个月中每天的天气情况。

（1）晴天有（　　）天。

（2）阴天有（　　）天。

（3）这个月一共有（　　）天。

晴天	正 正 正 T
阴天	正 正 一
雨天	T

二、仔细推敲，选一选。（将正确答案的序号填在括号里）（每小题1分，共8分）

1. 得数比70大的算式是（　　）。

①70−20+35　　②55−25+35　　③42+30−27

2. 丽丽用身体尺测量物体的长度，课桌大约长（　　）。

①3步　　②2庹　　③6拃

3. 每次摘4个苹果，摘了2次后还剩1个苹果，一共有多少个苹果？正确的列式是（　　）。



①4×2+1　　②4×2−1　　③4×3−1

4. 8×△=◇×6（△和◇都不为0），△和◇相比，下面（　　）是正确的。

①△>◇　　②△<◇　　③△=◇

5. 冰冰和乐乐练习写字，每人都要写28页。冰冰每天写7页，乐乐用4天写完。两人相比，（　　）。

①冰冰快　　②乐乐快　　③一样快

6. 根据下面信息，算式“32÷8”解决的是第（　　）个问题。

①4辆客车共收费多少元

②32元可以停几辆客车

③32元可以停几辆小汽车

停车收费标准	
小汽车	4元/辆
客车	8元/辆

7. 一根绳子对折两次后长4米，这根绳子原来长（　　）米。

①4　　②16　　③8

8. 沿下面图形中的虚线剪开，不能拼成平行四边形的是（　　）。



①　②　③

关注微信公众号“教辅资料站”获取更多学习资料

姓名 学号 班级 学校 请不要在密封线内答题哦！

三、细心的你，算一算。（共 24 分）

1. 直接写出得数。（每小题 1 分，共 12 分）

5 × 4=	72 ÷ 8=	9 × 9=	3 × 3 × 2 =
4 × 8=	24 ÷ 6=	8 × 5=	24 ÷ 6 × 9 =
9 × 5=	21 ÷ 3=	70–6=	18–8 ÷ 2 =

2. 列竖式计算。（每小题 4 分，共 12 分）

45+ 32–28 =　　85–28–34 =　　64 + 25–56 =

四、动手操作。（共 12 分）

1. 在下面的点子图上画一个平行四边形、一个五边形和一个六边形。（6 分）



2. 右边的三幅图分别是谁看到的？连一连。（6 分）



五、聪明的你，答一答。（共 28 分）

1.（1）他们一共要裹多少个粽子？（4 分）



（2）把这些粽子平均分给敬老院的 6 个老人，每人分多少个？（4 分）

2. 同学们折纸飞机，第一组折了 18 架，第二组折了 25 架，第三组折的比第一组和第二组折的飞机的总和少 12 架，第三组折了多少架？（5 分）

3. 在一个三角形的池塘边种树，每条边上都种 4 棵树，最少要种多少棵树？（可以先画图，再算一算）（5 分）

4.



（1）小丽用 12 元可以买几个冰激凌？（3 分）

（2）买 3 个汉堡和 1 杯饮料，需要多少元？（3 分）

（3）先补充好条件再计算：乐乐买 _____，一共用了多少元？（4 分）

六、附加题：天才的你，试一试。（10 分）

三个小朋友买铅笔，甲买了 10 支，乙买了 7 支，丙买了 4 支，三个小朋友平均分铅笔，分完后丙还要付 1 元 5 角，每支铅笔多少钱？

自己说说
老师点评
家长点评
微信公众号
教辅资料站

关注微信公众号“教辅资料站”获取更多学习资料

单元培优测试卷

第一单元　100以内的加法和减法（三）

一、1. 6　6　3

2. ＞　＜　＞　＞　＜　＜

3. 53　77　16　17

4. 24

5. 16　【点拨】两次一共剪去了多少米，绳子就比原来短了多少米。

6. 39　41

7. 6　38

8. ⑩　⑭　⑤　⑨

二、1. ③

2. ③

3. ③　【点拨】要求二（1）班的总人数，必须先求出男生的人数，然后加上女生的人数，则总人数为24−6+24=42（人）。

4. ②

5. ③　【点拨】原来齐齐比贝贝少2+2=4（支）铅笔，所以原来齐齐有10−4=6（支）铅笔。

6. ③　【点拨】最贵的一件是25元，最便宜的一件是10元，另一件最贵是25元，最便宜是10元，所以三件玩具一共的价钱在45～60元之间。

三、1. 60　56　74　26　66　42　76　40

2. 29+48−52=25　　80−35−27=18

$$\begin{array}{r} 29 \\ +\ 48 \\ \hline 77 \\ -\ 52 \\ \hline 25 \end{array} \qquad \begin{array}{r} 80 \\ -\ 35 \\ \hline 45 \\ -\ 27 \\ \hline 18 \end{array}$$

39+45+9=93　　76−47+31=60

$$\begin{array}{r} 39 \\ +\ 45 \\ \hline 84 \\ +\ 9 \\ \hline 93 \end{array} \qquad \begin{array}{r} 76 \\ -\ 47 \\ \hline 29 \\ +\ 31 \\ \hline 60 \end{array}$$

3. 24+6=30　48−16=32

四、1. 8　○○○○○○○○

2. 13　△△△△△△△△△△△△△

五、1. ④（√）36−25+36=47（棵）　【点拨】先要根据已知条件，补充与梨树或苹果树的棵数有关的条件，所以应该选条件④。用36−25=11（棵）先算出苹果树的棵数，再加上梨树的棵数就等于总棵数。

2.（答案不唯一）

（1）丽丽做了多少朵？

26+4=30（朵）

（2）贝贝做了多少朵？

30−8=22（朵）

3.（1）23+17=40（本）

（2）40+38=78（本）

4. 45+18−25=38（人）　【点拨】用原有的人数＋上车的人数－下车的人数＝现在车上有的人数。或者用25−18=7（人）算出下车的比上车的多7人，那么现在车上就会比原来少7人，所以现在车上有45−7=38（人）。

5.（1）买1枝钢笔和1个书包，应找回多少元？

（2）22

六、附加题：

30+20+40=90（厘米）

90−5−5=80（厘米）

【点拨】先算出三根木条的总长度，三根木条连成一根，接头处重叠了2次，就少了2个5厘米。

第二单元　平行四边形的初步认识

一、1.

四边形	五边形	六边形	合计
（5）个	（2）个	（2）个	（9）个

2.（√）　（√）　（　）（√）（　）

3. 四　五　六

4.（1）7　5

（2）①　②　③　⑤

（3）①　②　③　⑤

5. 4　6

6.（答案不唯一）平行四边　三角

7. ①　⑤

8. 6

二、1. ②

2. ③　【点拨】剩下的图形可能是三角形或四边形如图：



3. ③

4. ④

5. ②

6. ③

三、1. 涂红色：休闲区、喷泉；涂黄色：开心屋、健身器械活动区；涂蓝色：花坛、厕所。涂色略

2. 略。

3.（画法不唯一）

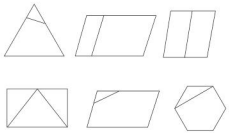

4.



剩下的是（五边）形



剩下的是（四边）形



剩下的是（三角）形

5. 四　五　【点拨】多边形只数外围的边的条数。

6. 4　4　6

7.



8.

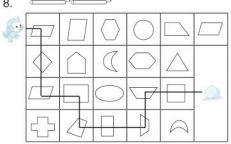

四、附加题：



第三单元　表内乘法（一）

一、1. 2　5　10　2+2+2+2+2=10（个）

2×5=10（个）

2. 十二　3×4=12　4×3=12　六　4×6=24　6×4=24

教辅资料站
关注微信公众号“教辅资料站”获取更多学习资料

3. 12　36

4. ＞　=　＜　＜

5. 6　15　3　3

6. 6+8=14（元）　6×5=30（元）

7. 24

8. 3　20　4　5

9. 3×4+3=15　4×4−1=15

10. 6

二、1. ②

2. ②

3. ①　【点拨】3 天看了 15 页，第 4 天应从下第 16 页开始看起。

4. ②

5. ③

6. ②

7. ②　【点拨】6 面红旗，有 5 个间隔摆月季花，5 个 2 盆是 10 盆。

8. ②　【点拨】画图可知，一共是 21 人，可以计算得出，不正确的是 3×5−6=9（人）。

三、6　12　36　16　25　16　20　4

四、

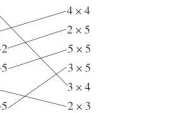

【点拨】1+2+3 和 2×3，可以通过计算得数连线。1+2+3+4+5 和 3×5 也可以通过计算得数连线。

五、1. △△△△△　△△△△△　△△△△△

3×5=15　5×3=15

2. ○○○○○　○○○○

4×2+1=9　5×2−1=9

六、1.（1）3×5=15（画）

（2）3×5+4=19（画）

2.（1）6×4=24（本）　【点拨】选择信息一。

（2）5×6+13=43（本）

【点拨】选择信息二、三。

3.（1）4×6=24（元）　【点拨】小刚和 3 个好朋友一共是 4 人，每人都带了 6 元，一共带了 24 元。

（2）3×3=9（元）

（3）4×5+6=26（元）

24＜26

不够 √

【点拨】4 辆玩具小汽车和 1 架玩具飞机一共是 26 元，比带的 24 元多，不够。

七、附加题：

1. 3　【点拨】合唱是大家同时唱这首歌，时间是不变的。

2. 25　【点拨】分析可知，贝贝的左面、右面都有 2 人，每排有 5 人，贝贝的前面、后面都有 2 人，共有 5 排，一共有 5×5=25（人）。

第四单元　表内除法（一）

一、1.（1）5　3　15　5×3=15

（2）15　5　3　15÷5=3

（3）15　3　5　15÷3=5

2. 15　6　1　6（或 2　3）　3. 3　6　3　6

4. ÷　×　−　+　÷　×（或 ÷）

5. ＜　＜　=　＞　=　＞

6. 3　【点拨】双打比赛是每 4 人为一组。

7. 36　【点拨】6 的倍数中比 30 大，比 40 小的只有 36。

8.（答案不唯一）1÷1=1　4÷2=2

9. 3　【点拨】可以找出最接近 13 且比 13 小的 5 的倍数是 10，则最少去掉 3 个苹果。

二、1. ②

2. ②

3. ③　【点拨】注意是不能写出。

4. ①　【点拨】可以用下面的答案一个一个尝试。

5. ③

6. ③

7. ③

8. ①　【点拨】20÷5=4（元），5−4=1（元）。

三、6　3　5　15　5　2　3　36　5　5　18　4

四、1.

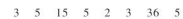

4　12÷3=4

2. △△△△△　△△△△△　5　10÷2=5

3. 3×5=15　5×3=15　15÷3=5　15÷5=3

五、1. 24÷6=4（个）

2.（1）18÷6=24（棵）　（2）24÷4=6（棵）

3.（1）4×3=12（厘米）　（2）12÷4=3（厘米）

4.（1）2×6=12（枚）　12+12=24（枚）

（2）小亮：12÷4=3（次）

弟弟：12÷3=4（次）

六、附加题：

1. 4　5

【点拨】规律是 6×3+2=20，5×2+4=14，则（15−3）÷3=4，（32−2）÷6=5。

2. 26−6=20（人）20÷5=4（次）4+1=5（次）

【点拨】留 1 人负责来回划船，最后 1 次可以 6 人都过河，其余的每次只能渡 5 人过河，除去最后的 6 人，前面的 20 人需要 4 次，再加上最后的 1 次，共需要 5 次。

期中测试卷

一、1.（1）2×6=12　6×2=12

12÷2=6　12÷6=2

（2）2×4+3=11　3×4−1=11

2.10　25　1

3. 6

4. 70−（14+6）=50

5. ＜　＜　＜　＜　=　＞　=　＞

6. 5　3　6

7. 12　3

【点拨】椅子的数量是课桌的 2 倍。

8. 6　3

9. 38　36

10. 48　50

二、1. ②　【点拨】3 个 4 相加，加数是 4，不能写成 3+3+3+3。

2. ③　【点拨】2 元和 5 角的单位不一样，把 2 元化成 20 角，20÷5=4（块）。

3. ③　【点拨】80−45=35。

4. ①　【点拨】②正确的列式是 5+2×1，③正确的列式是 5−2×1。

5. ①　【点拨】先根据第一个算式得出○=6，再根据第二个算式得出□=16，根据口诀“四四十六”得出★=4。

三、1.3　20　42　9　6　5　1　33　24　12　6　20　25　20　9　9

关注微信公众号“教辅资料站”获取更多学习资料

2. 37+16+16=69　　72+19−18=73

$$\begin{array}{r} 37 \\ +\ 16 \\ \hline 53 \\ +\ 16 \\ \hline 69 \end{array}$$

$$\begin{array}{r} 72 \\ +\ 19 \\ \hline 91 \\ -\ 18 \\ \hline 73 \end{array}$$

56−28+35=63　　85−47−26=12

$$\begin{array}{r} 56 \\ -\ 28 \\ \hline 28 \\ +\ 35 \\ \hline 63 \end{array}$$

$$\begin{array}{r} 85 \\ -\ 47 \\ \hline 38 \\ -\ 26 \\ \hline 12 \end{array}$$

四、1.（画法不唯一）



2. 略。

五、1.（1）28+26=54（人）

（2）54−35=19（人）

【点拨】一共的人数是男生与女生人数的和，再减去8岁的人数，剩下的就是9岁的人数。

2. 最少：28+29+27=84（元）

最多：28+29+35=92（元）

3.（1）3×4=12（个）

（2）12÷2=6（天）

4. 5×3+4=19（枝）

19<20

不够。

5.（1）24÷4=6（条）

（2）10−6=4（条）

4×4=16（人）

【点拨】有24人，每4人坐1条小船，至少需要6条小船。第（2）问要先求出剩下的小船是4条，再用小船的条数乘每条小船限乘的4人，求出还能坐16人。

六、附加题：

1. 12　17　【点拨】用○表示男生，□表示女生，画图如下：

○□□□○□□□○□□□○□□□○

女生：4×3=12（名）

一共：12+5=17（名）

2. 3　【点拨】1只羊的质量等于3只狗的质量，1只狗的质量等于2只猫的质量，则1只羊的质量等于6只猫的质量，所以右边还应再加3只猫。

第五单元　厘米和米

一、1. 线段　端点

2. 3　5　4　6　【点拨】第3个图形外面有3条线段，里面有1条线段，共4条。

3. 4　5

4. 4　2

5. 厘米　米　米　米　厘米　米

6. ＞　＞　＜　＝

7. 7

8. 8　10　16

二、1. ①

2. ②　【点拨】1根火柴大约长5厘米，1支铅笔大约长15厘米，爸爸的一步大约长60厘米。

3. ③　【点拨】基本线段有3条，由2条基本线段组成的线段有2条，由3条基本线段组成的线段有1条，共有6条线段。

4. ①

5. ②　【点拨】7−1=6（厘米），13−8=5（厘米）4−0=4（厘米）。

6. ③　【点拨】拃用来测量比较短的物体长度，庹用来测量教室里黑板等中等长度的物体，操场、跑道等较长的物体的长度用步来测量，每步的长度 × 步数 = 测量物体的长度。

7. ①

8. ③　【点拨】4盆花只有3个间隔，3×4=12（米）。

9. ③　【点拨】题目中是两步，不是一步。

10. ①　【点拨】不能只看数的大小，3米=300厘米，第一根最长。

三、1. 略。

2. 3　6　3　4　5

3.（画线段略）（1）1　（2）3　（3）6　（4）10

4.（画法不唯一）



四、

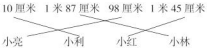

五、1. 5×6=30（米）

2. 24÷6=4（块）

3.（1）25+35=60（厘米）

（2）1米=100厘米　100−60=40（厘米）

4. 30−18=12（米）　12÷3=4（米）

【点拨】求平均每个花环用的米数，要先把剩下的18米去掉，算出编3个花环一共用了12米。

5.（1）20÷5=4（副）　（2）5×6=30（米）

六、附加题：

1. 10　【点拨】1厘米、4厘米、9厘米、19厘米、4−1=3（厘米）、9−1=8（厘米）、19−1=18（厘米）、9−4=5（厘米）、19−4=15（厘米）、19−9=10（厘米）。

2. 26　【点拨】5根绳子只需要4个接头，用去4厘米，即5×6−4=26（厘米）。

或6+5+5+5+5=26（厘米），第1根绳子是6厘米，第2根接上的时候打结用去1厘米，只剩下5厘米，同理，第3根、第4根、第5根都剩下5厘米。

第六单元　表内乘法和表内除法（二）

一、1. 五　九　三十六　三七　七八　四

2. 32　40　16

3. 4　6

4. 35　49　7　1　【点拨】两个乘数都是7，积是7×7=49；被除数和除数都是8，商是8÷8=1。

5. 7　63

6.（1）36　27　（2）35　63

7. ×　÷　−　×　÷　÷

8. 35　8

9. 12　5

10. ＜　＞　＞　＝　＞　＜

11. 2×7=14

二、1. ②

2. ②　【点拨】5个7加5可以改写成6个7减2。

3. ①　【点拨】4个这样的盒子能装32个苹果，32比30多，能装下。

4. ①　【点拨】相同数量的学生，每组的人数少一些，分成的组数就多一些。

关注微信公众号“教辅资料站”获取更多学习资料

5. ③

6. ③

7. ③ 【点拨】每盒钢笔的支数 × 钢笔的盒数 = 钢笔的总支数。

8. ③ 【点拨】注意把题目读完整，又来了 2 人，共 9 人，63 ÷ 9=7（颗）。

9. ② 【点拨】注意是“不可能”，只有 45 不是 6 的倍数。

10. ②【点拨】72 ÷ 9 × 6=48。

三、2 × 8+5=21（只） 3 × 8−3=21（只）

四、1. 9 × 9=81（个）

2.（1）3 × 9=27（个）

（2）4 × 9+6=42（个） 40 < 42 不够。

3.（1）3 × 6=18（个）

（2）24 ÷ 6=4（元）

4.（1）18 ÷ 3=6（天）

（2）2 × 6=12（颗）

18−12=6（颗）

【点拨】奶糖需要 6 天吃完，每天吃 2 颗水果糖，6 天能吃 12 颗水果糖，还剩 6 颗。

五、附加题：

最多：6 × 8=48（盆） 最少：6 × 8−6=42（盆）

【点拨】最多的盆数是 8 盆全都放在边上，顶点处不放。最少的盆数就是 6 个顶点处都放，顶点处放的盆数都是重复的，算总数时需要减去 6 盆。

第七单元 观察物体

一、1.（√） （○）

2.



3.



4. 前 后 左

5.（1）前 上 右

（2）前（或右） 上【点拨】圆柱从前面、右面看都是长方形，从上面看是圆形。

（3）前 右 上

6. ④ ② ③ ①

7. 6 4

二、1. ① 2. ③ 3. ③

三、1.

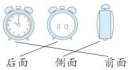

2. 小雪 小军 小建

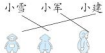

3.

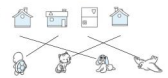

4. 坐在小云旁边的同学

坐在小云前面的同学

坐在小云后面的同学



【点拨】小云看到的是前面同学的后脑勺，旁边同学的侧脸，后面同学的正面。

5.



6.

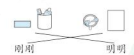

四、3 2 1

五、3 1 2

六、附加题：

1. 圆第 2 幅图 2. 左

【点拨】在镜子里看到的图像，你的左边你看到的仍然在左边，你的右边你看到的仍然在右边。

归类培优测试卷

1. 计算

一、1. 3 2 2+2+2=6（个）

2 × 3=6（个） 3 × 2=6（个）

2. 12 36 6 24

3. 20 6 7 4

4. > > > < < >

5. 8 4 32 【点拨】可以把 4+4 合成 8，这样就是 4 个 8 相加。

6. 16 25 36

16 25 6 6 36

7. 27 【点拨】乐乐要想获得三个人中的第一名，两次至少一共跳 55 下，所以他第二次至少要跳 55−28=27（下）。

8.（1）4

（2）4

（3）（答案不唯一）1 12 2 6

二、1. ③

2. ③ 【点拨】7 × 9+9 可以理解为 7 个 9 加 1 个 9，就是 8 个 9，故选③。

3. ① 【点拨】可以先不看中间那 1 个○，四周一共就是 4 × 3 个○，再加上中间 1 个○，一共就是（4 × 3+1）个○。

4. ③ 【点拨】方法一是用 54 连续减去 9，减 6 个 9 后等于 0，就表示 54 里面有 6 个 9。方法二是直接用除法算出 54 里面有 6 个 9，两种方法都是对的。

5. ②

三、1. 27 57 15 6

5 7 26 30

2. 75−18−26=31 22+18−34=6

$$\begin{array}{r} 75 \\ -\ 18 \\ \hline 57 \\ -\ 26 \\ \hline 31 \end{array} \qquad \begin{array}{r} 22 \\ +\ 18 \\ \hline 40 \\ -\ 34 \\ \hline 6 \end{array}$$

90−58+24=56

$$\begin{array}{r} 90 \\ -\ 58 \\ \hline 32 \\ +\ 24 \\ \hline 56 \end{array}$$

四、1. ○○ ○○ ○○

○○○ ○○○

【点拨】2 × 3 既可以表示 3 个 2 相加，也可以表示 2 个 3 相加。

2. △△△△ △△△△

△△ △△ △△ △△

【点拨】8 ÷ 2 既可以表示把 8 个△平均分成 2 份，每份是 4 个△；也可以表示把 8 个△按每 2 个 1 份来平均分，可以分成 4 份。

五、1. 2 × 4+3=11（根） 3 × 4−1=11（根）

2. 22−6=16（人）

六、1. 36+25−32=29（朵） 【点拨】用红花的朵数 + 黄花的朵数 − 送出的朵数 = 还剩的朵数。

2.（1）26+22=48（盆） 【点拨】剩下的盆数 = 运走的盆数 +22。

（2）48 ÷ 6=8（次）

3.（1）5 × 5−24=1（元）

关注微信公众号“教辅资料站”获取更多学习资料

（2）2×9÷6=3（副）

七、附加题：

3块3块地数还多2块；5块5块地数还差3块：

1×3+2=5（块）　　1×5−3=2（块）

2×3+2=8（块）　　2×5−3=7（块）

3×3+2=11（块）　　3×5−3=12（块）

4×3+2=14（块）　　4×5−3=17（块）

5×3+2=17（块）

奶奶买回 17 块糖。

【点拨】可以用一一列举的方法，分别把符合条件的数找出来，然后看哪一个数重复出现了，那么这个数就是同时符合题目中两个条件的正确答案。

2. 解决问题

一、1.（1）6（2）6（3）6（4）3

2.（1）6　4　24　（2）24　6　4

（3）24　4　6

3. 6　24　【点拨】3 碗水可以装 1 壶，2 壶水就是 2 个 3 碗水，所以是 2×3=6（碗），所以 6 碗水可以装 1 盆；4 盆水就是 4 个 6 碗水，所以是 4×6=24（碗）。

4. 54　6　5. 40　38　6. 2　1

7. 25　【点拨】每人分得的块数 × 小朋友的人数 = 糖果的总数，因为每人分得的块数和小朋友的人数同样多，所以我们就想哪两个相同数相乘的积在 20 和 30 之间，5×5=25，故这些糖果有 25 块。

8.（1）30　【点拨】1 只羊换 6 只鹅，5 只羊就可以换 5 个 6 只鹅，就是 5×6=30（只）。

（2）7　【点拨】6 只鹅换 1 只羊，42 只鹅可以换 42÷6=7（只）羊。

二、1. ②　2. ①

3. ③　【点拨】每组有 5 个，第 5 组的最后一个就是第 5×5=25（个）。

4. ③

5. ②　【点拨】小华和 3 个小伙伴一共是 4 人，所以求平均每人做了几面彩旗，应该用 24÷4=6（面）。

6. ②　【点拨】求钉起来后这块木板长多少厘米，可以用 26+26−6=46（厘米），也可以用 26−6+26=46（厘米）。

三、1. 6　71　21　30　36　8　32　17

18　72　52　3　15　9　6　17

2. 35+27+18 = 80　　89−53+26 = 62

$$\begin{array}{r} 35 \\ +\ 27 \\ \hline 62 \\ +\ 18 \\ \hline 80 \end{array} \qquad \begin{array}{r} 89 \\ -\ 53 \\ \hline 36 \\ +\ 26 \\ \hline 62 \end{array}$$

70−15−20 = 35　　47+6−23 = 30

$$\begin{array}{r} 70 \\ -\ 15 \\ \hline 55 \\ -\ 20 \\ \hline 35 \end{array} \qquad \begin{array}{r} 47 \\ +\ 6 \\ \hline 53 \\ -\ 23 \\ \hline 30 \end{array}$$

四、1. 28+15=43（个）

2. 82−28=54（张）

3. 68−26−8=34（个）

4. 6+6=12　6×2=12

12÷2=6　12÷6=2

5. 5×4+2=22

5×5−3=22

五、1. 4×8=32（个）【点拨】1 辆汽车有 4 个轮子，8 辆汽车就有 4×8=32（个）轮子。

2. 36−17+12=31（人）　【点拨】原有的人数 − 下车的人数 + 上车的人数 = 现在的人数。

3.（1）5×4=20（元）

（2）18÷3=6（张）

（3）30÷6=5（节）

六、附加题：

2×2=4（桶）　8−4=4（桶）　4×2=8（名）

3. 图形与几何

一、1. 厘米　米　厘米　米　米　厘米

2. 4　四　5　五　6　六　8　八

3. 2　7　5　【点拨】铅笔的长从 2 至 9 厘米，用 9−2=7（厘米）；钥匙的长从 3 至 8 厘米，用 8−3=5（厘米）。

4. ＜　＞　＞　＝　＜　＜

5. 28　【点拨】将 1 米转化成 100 厘米，用去 72 厘米，还剩 100−72=28（厘米）。

6. 5

7. 11　【点拨】可以先算从 4 厘米至 11 厘米，一共是 7 厘米，再加上中间的 2 个 2 厘米就是 11 厘米。也可以先算从 4 厘米至 7 厘米，从 9 厘米至 11 厘米一共是 5 厘米，再加上中间的 3 个 2 厘米，一共也是 11 厘米。

8. 18　3　【点拨】第 6 个三角形，每条边上有 6 根小棒，3 条边一共有 3×6=18（根）小棒。摆每个六边形需要 6 根小棒，18 根小棒可以摆 18÷6=3（个）六边形。

9. 1 米或 100 厘米　50 厘米

10.（1）30　（2）10　（3）20　10

二、1. ②　2. ②　3. ③　4. ②　5. ①　6. ③

7. ①　【点拨】篮球场的长度是固定不变的，量的步数越少，每一步就越长。

三、1.



（答案不唯一）

2. 略　3. 略

4.（1）

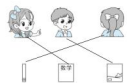

（2）

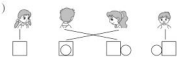

四、1. 60−18−33=9（米）

2.（1）50+60=110（厘米）

（2）1 米 =100 厘米　110−100=10（厘米）

3.（1）18÷2=9（根）

（2）18÷3=6（米）

五、附加题：

它要爬 4 次才能爬到竹竿顶端。【点拨】小猴子每次向上爬 2 米，向下滑 1 米，其实向上爬了 1 米，3 次以后一共爬了 3 米，再向上爬 1 次就爬了 5 米，不会往下滑了，所以是 4 次。

综合培优测试卷

1. 期末测试卷（一）

一、1.（1）6　3　18　6×3=18（个）

（2）5　3　3　5

2. 7

3. 13　14　53　90

4.（1）米　（2）米　（3）厘米　（4）米

5. ＜　＜　＞　＝

关注微信公众号“教辅资料站”获取更多学习资料

6. 24　8　【点拨】每个正方形由4根小棒摆成，6个正方形由4×6=24（根）小棒摆成。每个三角形由3根小棒摆成，24根小棒可以摆24÷3=8（个）三角形。

7. 21　27

8.（1）17　【点拨】晴天有3×5+2=17（天）。（2）11　【点拨】阴天有2×5+1=11（天）。（3）30　【点拨】这个月一共的天数=晴天的天数+阴天的天数+雨天的天数=17+11+2=30（天）。

二、1. ①

2. ③

3. ①

4. ②　【点拨】可以举例来判断，也可以这样想：与较大数相乘的那个数小，与较小数相乘的那个数大。

5. ③　6. ②

7. ②　【点拨】对折两次就是将绳子平均分成了4份，4×4=16（米）。

8. ②

三、1. 20　9　81　18　32　4　40　36　45　7　64　14

2. 45+32−28=49　　85−28−34=23

$$\begin{array}{r} 45 \\ +\ 32 \\ \hline 77 \\ -\ 28 \\ \hline 49 \end{array} \qquad \begin{array}{r} 85 \\ -\ 28 \\ \hline 57 \\ -\ 34 \\ \hline 23 \end{array}$$

64+25−56=33

$$\begin{array}{r} 64 \\ +\ 25 \\ \hline 89 \\ -\ 56 \\ \hline 33 \end{array}$$

四、1. 略

2.

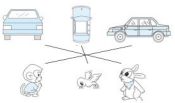

五、1.（1）4×9=36（个）

（2）36÷6=6（个）

2. 18+25−12=31（架）　【点拨】第三组折的数量=第一组折的数量+第二组折的数量−12。

3. 如图。

4×3−3=9（棵）或3×3=9（棵）或2×3+3=9（棵）



【点拨】方法一：如果每条边上看成4棵，三条边上一共就是3个4棵，这时候顶点的3棵就分别多算了一次，所以要减去3棵。

方法二：如果每条边上看成3棵，把另一棵留到另一条边上算，就是3×3=9（棵）。

方法三：每条边上先算中间的2棵，就是3个2棵，再加上顶点的3棵，所以用2×3+3=9（棵）。

4.（1）12÷4=3（个）

（2）9×3+5=32（元）

（3）（答案不唯一）2个汉堡

9×2=18（元）

六、附加题：

10+7+4=21（支）　21÷3=7（支）　7−4=3（支）

1元5角=15角　15÷3=5（角）

【点拨】甲、乙、丙共买了10+7+4=21（支）铅笔，3人平均分，每人应分得21÷3=7（支），丙分得7支，他买了4支，还要拿3支，付1元5角，1元5角=15角，每支铅笔15÷3=5（角）。

2. 期末测试卷（二）

一、1. 厘米　米　米　厘米

2. 20　5

3. 7　9　7　5　70　7

4. 3

5. 2

6. 15

7. 27　3

8. 6　【点拨】兰兰原来比欢欢多22−8=14（支），先拿出2支，还剩14−2=12（支），将12支平均分成2份，每份12÷2=6（支），则兰兰给欢欢6支后，兰兰比欢欢还多2支。

9. 4　【点拨】4人，又来了2人共6人，就是将24个苹果平均分给6人，所以每人分得的苹果数就是24÷6=4（个）。

10. 7　49

二、1. ③

2. ③

3. ②　【点拨】求小花用去多少元，这里应该根据小红用去的钱数去估一估。

4. ②

5. ①

6. ②　【点拨】钢笔卖掉的支数比铅笔卖掉的支数多，剩下的钢笔和铅笔一样多，所以原来钢笔的支数多。

三、1. 24　15　17　75　63　9　25　26　7　24　71　44　48　9　36　0

2. 36+15+39=90　　80−18−26=36

$$\begin{array}{r} 36 \\ +\ 15 \\ \hline 51 \\ +\ 39 \\ \hline 90 \end{array} \qquad \begin{array}{r} 80 \\ -\ 18 \\ \hline 62 \\ -\ 26 \\ \hline 36 \end{array}$$

90−45+17=62　　72+15−39=48

$$\begin{array}{r} 90 \\ -\ 45 \\ \hline 45 \\ +\ 17 \\ \hline 62 \end{array} \qquad \begin{array}{r} 72 \\ +\ 15 \\ \hline 87 \\ -\ 39 \\ \hline 48 \end{array}$$

四、1.



（三角）形　（四边）形　（五边）形

2. ③　①　②

五、1.（1）6×4=24（人）

（2）6×8=48（朵）

2. 56÷8=7（块）

3. 36−18+26=44（朵）【点拨】现在的朵数=昨天做的朵数−送出的朵数+今天做的朵数。

4. 9×4−2=34（个）【点拨】9只小船一共有9×4=36（个）座位，再减去2个空座位，就算出了一共有多少个小朋友。

5. 6×4+1=25（个）

六、附加题：

油：10−6=4（千克）　4×2=8（千克）

桶：10−8=2（千克）

【点拨】原来油连桶重10千克，吃了一半后，连桶重6千克，少了10−6=4（千克）油，则4千克是原来油的一半，所以油一共有4×2=8（千克）。求桶的质量用10千克减去油的质量就可以了。

教辅资料站
关注微信公众号“教辅资料站”获取更多学习资料

核心考点突破卷

1. 100 以内的连加、连减、加减混合计算

一、1. 61　79

2. ＜　＜　＞　＜　＜　＝

3. 上：74　下：85　左：67　右：91

二、1. ①　【点拨】七十几减二十几，如果不需要退位，得数就是五十几，如果需要退位，得数就是四十几，不可能是三十几。

2. ②

3. ②　【点拨】填 0~3 不用向前一位进 1。

三、1. 16　66　0　18　50　53　42　55　20　67　76　30

2. 29+17+36=82　58+32−23=67

$$\begin{array}{r} 29 \\ +\ 17 \\ \hline 46 \\ +\ 36 \\ \hline 82 \end{array} \qquad \begin{array}{r} 58 \\ +\ 32 \\ \hline 90 \\ -\ 23 \\ \hline 67 \end{array}$$

58−26−15=17　74−16−33=25

$$\begin{array}{r} 58 \\ -\ 26 \\ \hline 32 \\ -\ 15 \\ \hline 17 \end{array} \qquad \begin{array}{r} 74 \\ -\ 16 \\ \hline 58 \\ -\ 33 \\ \hline 25 \end{array}$$

62−38+40=64　35+17+25=77

$$\begin{array}{r} 62 \\ -\ 38 \\ \hline 24 \\ +\ 40 \\ \hline 64 \end{array} \qquad \begin{array}{r} 35 \\ +\ 17 \\ \hline 52 \\ +\ 25 \\ \hline 77 \end{array}$$

四、1. ×

$$\begin{array}{r} 26 \\ +\ 38 \\ \hline 64 \\ +\ 17 \\ \hline 81 \end{array}$$

【点拨】没有把进到十位的 1 加上去。

2. ×

$$\begin{array}{r} 86 \\ -\ 28 \\ \hline 58 \\ +\ 11 \\ \hline 69 \end{array}$$

【点拨】十位退位后没有减去 1。

五、30　11　27

【点拨】花朵上的 3 个数加起来等于花盆上的数，所以用花盆上的数减去两朵花朵上的数，就等于第三朵花朵上的数。

六、



2. 100 以内加、减法的实际问题

一、1. 16　14

2. 51　49

【点拨】比 50 大的数中最小的是 51，比 50 小的数中最大的是 49。

3. 少　7

二、1. ②　【点拨】36−8+24=52（只）。

2. ②　【点拨】画图就能一目了然。



小力比小文少看了 24−16=8（页）。

3. ③

三、1. 22　【点拨】8+14=22（只）。

2. 43　9　72　43　49　32

四、1. 37+34=71（个）

2. 81−37=44（枚）

五、1. 最多：28+25+24=77（元）

最少：10+15+22=47（元）

【点拨】求最多花的钱就是把最贵的三样玩具的价钱相加，求最少花的钱就是把最便宜的三样玩具的价钱相加。

2. 35−26=9（岁）　【点拨】年龄的差始终不变，5 年前、今年或以后……小月永远比妈妈小 26 岁。

3. 贝贝：63−25=38（个）

毛毛：63+18=81（个）

【点拨】这一题要注意选择合适的条件解决问题。贝贝拔的萝卜比小白少，用减法。小白再拔 18 个萝卜就和毛毛一样多了，说明毛毛拔的萝卜多，用加法。

3. 平行四边形的初步认识

一、1. 四　四　五

2. (1) ①　②　③　⑤

(2) ③　⑤　⑦（答案不唯一）

二、1. ②　【点拨】围成平行四边形的同样长的小棒的根数必须是双数。

2. ②　【点拨】正方形沿相对的边对折能得到两个长方形，沿对角线对折，能得到两个三角形。

3. ③　【点拨】基本图形有 3 个，由 2 个基本图形组成的长方形有 1 个，由 3 个基本图形组成的长方形有 1 个，共 5 个。

4. ②　【点拨】把正方形纸剪去一个小角，剩下的图形是五边形。沿对角线剪，剩下的图形是三角形。

5. ③　【点拨】摆 2 个独立的六边形，至少需要 2 组 6 根小棒。

6. ①

三、1.

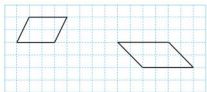

2. (答案不唯一)



3. (答案不唯一)



4. (答案不唯一)



4. 乘法的初步认识

一、1. (1) 5　2　2+2+2+2+2=10

2×5=10　5×2=10

2 乘 5 等于 10　5 乘 2 等于 10

(2) 3　5　5　3　5+5+5=15

3+3+3+3+3=15

3×5=15　5×3=15

2. 5×6　4 乘 3　6×3　6　3　3　6

5×5=25

3. 1×5　6×2

5×4　4×3

4. 5　5　△　△　△

3　3　3　3　3　3

二、1. 6×6=36

关注微信公众号“教辅资料站”获取更多学习资料

2. 6×5=30

3. 2×3=6

4. 4×4=16

5. 2×6=12

三、

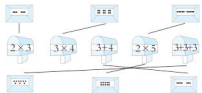

四、○○○ ○○○ ○○○ ○○○ ○○○ ○○○（画法不唯一）

○○○ ○○○○○○

五、1.（1）4+5=9（只）

（2）3×4=12（只）

【点拨】鸡有两种，就是求它们的和。鸭子有3种，就是求3个4只是多少。

2. 6×5=30（个）

【点拨】每个图形有5个方块。

5.1~6 的乘法口诀计算

一、1. 5×4=20

4×5=20

四五二十

2. 3　3

3. 2×6=12

6×2=12

3×4=12

4×3=12

4. ×　−　×　+　−　×

（第3、4个空答案不唯一）

5. =　>　>　<

6. 5　31　2　5

7. 3　8　15

3　8

3×5=15

8. 23

【点拨】3+5×4=23。

二、1. ②

2. ②

3. ③

4. ②

三、12　18　20　17

15　30　16　10

四、1. 2×6=12

6×2=12

2. 3×4+3=15

4×4−1=15

五、1. 3×5=15（棵）

2. 3×4=12（名）

3. 5×4+2=22（个）

6. 表内乘法的实际问题

一、1. 8

2. 12

3. 25

4. 12　20

5. 20　10

【点拨】把4支钢笔换成铅笔，就是求4个5支是多少。每支铅笔2元，求每支钢笔多少元，就是求5个2元是多少。

6. 12　20

二、1. ③

【点拨】小月和3个好朋友是4人，门票是4个6元，再加5元，一共是29元。

2. ②

3. ③

【点拨】4根跳绳就是4个6元，两张20元的人民币是40元，40−24=16（元）。

4. ②

【点拨】3个6页是18页，第4天应该从第19页开始看起。

5. ③

三、1. 5×3=15　3×5=15

2. 4×3+2=14　3×5−1=14

四、1. 4×5=20（个）

2. 4×3+5=17（个）

7. 除法的初步认识

一、1.（　）（√）（√）（　）

2. 除以　3　15　5　3　15　3　5

3.（1）2　3

（2）3　3

4. 3　6　4

【点拨】玩具小汽车有4个轮子，玩具自行车有2个轮子，玩具三轮车有3个轮子。

二、1. 10　5　10÷2=5

2. 16　4　16÷4=4

3. 12　3　12÷4=3

4. 9　3　9÷3=3

5.（1）5　2　10　5×2=10

（2）10　2　5　10÷2=5

（3）10　5　2　10÷5=2

三、

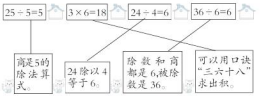

8. 1~6 的乘法口诀求商

一、1. 6　6　四六　3　3　三

2. 3×4=12　4×3=12　12÷3=4　12÷4=3

3. 4×5=20　5×4=20　20÷4=5　20÷5=4

4. 6÷1=6　12÷2=6　18÷6=3　24÷6=4

（答案不唯一）

5. <　=　<　>　<　<

6. 6　2　4　6　3　6　5　5

二、1. ②

2. ③

3. ②

4. ①

5. ②

三、1. 1　2　1　2

2　4　5　4

3　2　5　3

四、1. 2



2.

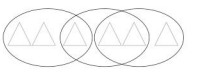

五、1. 24÷6=4（次）

2. 20÷4=5（盒）

关注微信公众号“教辅资料站”获取更多学习资料

3. 18 ÷ 3=6（套）

【点拨】1 人搬 2 把椅子，2 人抬 1 张桌子，搬 1 套桌椅需要 3 人。

9. 表内除法的实际问题

一、1. 2　10 ÷ 5=2（本）　二五一十

2. 4

3. 6

4. 12　3

5. 4　1

二、1. ③

2. ②

3. ③

4. ①

5. ②

6. ②

三、1.12 ÷ 3=4（棵）　【点拨】王小明和爸爸妈妈一共是 3 人。

2.（1）15 ÷ 5=3（元）

（2）15−6=9（元）

3.（1）24 ÷ 3=8（天）

（2）水果糖　3

【点拨】24 ÷ 4=6（块），　6−3=3（块）。

4. 22+8=30（人）　30 ÷ 6=5（排）

10. 厘米和米

一、1.（×）（×）（√）（×）（√）（×）

2. 6　3　12

3. 米　厘米　米　厘米

4. ＜　＞　＝　＞　＞　＞

5. 2　83

【点拨】1 米 =100 厘米，100−98=2（厘米），98−15=83（厘米）。

6. ③　①　②　④　⑤　⑥

二、1. ①

2. ②

【点拨】绿丝带剪去 8 厘米后，就与红丝带同样长，说明绿丝带就比红丝带长 8 厘米。

3. ②

三、1. 5　3　2

（1）2

（2）1

（3）10

2. 4 厘米

3. 

4.（1）略

（2）东东走的路多，多 60−20=40（米）。

11.7~9 的乘法口诀和用乘法口诀求商

一、1. 21　8

2. 4　6

3. ×　÷　×　÷

4. 2 × 9=18　9 × 2=18　18 ÷ 2=9　18 ÷ 9=2

或 6 × 9=54　9 × 6=54　54 ÷ 6=9　54 ÷ 9=6

5. 4　32　26　8

6. 3　6　6　6　4　9　4　4　2　8

7. 7

8. 24

二、1. ①

2. ②

3. ③

4. ②

5. ①

三、1. 7　48　9　30　8　3

13　4　2　6　53　26

2. 5　45　56　7　35

36　4　32　63　9

四、1. 4 × 8=32（下）

【点拨】小红和她的 3 个好朋友一共是 4 人。

2. 7 × 6=42（个）

【点拨】一至六年级，一共是 6 个年级。

3.（1）4 × 2=8（粒）　（2）32 ÷ 8=4（天）

4. 16 ÷ 2=8（块）　8 ÷ 4=2（块）

12. 观察物体

一、1. 小云　小丽　小庆　小玲

2. 小明　小崔　小玉

3. 近　远　【点拨】注意近大远小。

二、1. ③

2. ②

三、1. 

2. 

3. 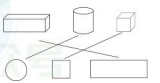

4. 

四、3　1　2

【点拨】课开始前老师应该是从教室外面走进教室，所以是面对着班牌，应该是图 2，课进行中老师在教室里，应该是图 3，课结束后老师走出教室，是背对着班牌，应该是图 1。

期末冲刺抢分卷

1. 高频考点抢分卷

一、1. 8　【点拨】从左边筐里拿 4 个梨放入右边筐里，两个筐里的梨就同样多，原来左边筐里比右边筐里多 2 个 4 个，就是 8 个。

2. 厘米　米

【点拨】1 步大约长 50 厘米，两步大约长 100 厘米，就是 1 米。

3. ＞　＝　＜　＞　＜　＜

4. 5　6

【点拨】每次吃的粒数多，能吃的次数就少；每次吃的粒数少，能吃的次数就多。

二、1. ②

2. ②

3. ①　【点拨】72 里面有 9 个 8，所以可以剪 9 段，剪 9 段只要剪 8 次。　4. ②

三、1.48　7　63　21　28　9　5　3

2.38+15+29=82　82−16−54=12　70+21−45=46

$$\begin{array}{r} 38 \\ +\ 15 \\ \hline 53 \end{array} \qquad \begin{array}{r} 82 \\ -\ 16 \\ \hline 66 \end{array} \qquad \begin{array}{r} 70 \\ +\ 21 \\ \hline 91 \end{array}$$

$$\begin{array}{r} +\ 29 \\ \hline 82 \end{array} \qquad \begin{array}{r} -\ 54 \\ \hline 12 \end{array} \qquad \begin{array}{r} -\ 45 \\ \hline 46 \end{array}$$

关注微信公众号“教辅资料站”获取更多学习资料

四、



（答案不唯一）

五、1.（1）48÷6=8（个）

（2）6×4=24（个）

2. 5×3+1=16（分）

2. 易错题抢分卷

一、1.（1）5　3　15

（2）15　5　3

（3）15　3　5

2. 7

【点拨】64 里面有 8 个 8，所以减去 7 个 8 后还剩 8。

3. 七

4. 4

【点拨】如果用 3 条船，只能坐 12 人，还有 3 人没有坐，所以必须再加 1 条船，也就是 4 条船。

5. 8

【点拨】如果每条边上算 3 棵树，正方形有 4 条边，一共栽 3×4=12（棵），这样 4 个角就分别被重复计算了一次，所以需要栽 12−4=8（棵）。

二、1. ③

2. ③

3. ②

4. ③

【点拨】从 2 厘米到 6 厘米是 6−2=4（厘米），2×4=8（厘米）。

5. ①　【点拨】看同一本书，看的天数越少，平均每天看的页数就越多。

三、1. 56　39　6　16　8　72　16　54　7

17　9　4

2. 16+34+29=79　80−26−25=29

$$\begin{array}{r} 16 \\ +\ 34 \\ \hline 50 \\ +\ 29 \\ \hline 79 \end{array} \qquad \begin{array}{r} 80 \\ -\ 26 \\ \hline 54 \\ -\ 25 \\ \hline 29 \end{array}$$

49+44−17=76

$$\begin{array}{r} 49 \\ +\ 44 \\ \hline 93 \\ -\ 17 \\ \hline 76 \end{array}$$

四、1. 5×3+3=18（朵）　5×4−2=18（朵）

2. 3×6=18（个）

3. 42÷6=7（个）

五、1. 6÷3=2（块）

2. 18÷3=6（元）

3. 18÷6=3（元）

3. 常见难题抢分卷

一、1. 1　25

2. 24　4

3. 17

4. 9　4

二、1. ①　2. ②　3. ②　4. ①

5. ①　【点拨】5×7+5 表示 7 个 5 加 1 个 5 等于 8 个 5，所以可以用口诀“五八四十”直接计算出得数。而 5×7+7 表示 5 个 7 加 1 个 7 等于 6 个 7，8×5−5 表示 8 个 5 减 1 个 5 等于 7 个 5。

三、1. 30　2　8　28　32　3　8　24　34　19

54　3

2. 45+20+27=92　81−24−49=8

$$\begin{array}{r} 45 \\ +\ 20 \\ \hline 65 \\ +\ 27 \\ \hline 92 \end{array} \qquad \begin{array}{r} 81 \\ -\ 24 \\ \hline 57 \\ -\ 49 \\ \hline 8 \end{array}$$

60−15+38=83

$$\begin{array}{r} 60 \\ -\ 15 \\ \hline 45 \\ +\ 38 \\ \hline 83 \end{array}$$

四、1.（1）27÷3=9（块）

（2）9÷3=3（块）

2.（1）49÷7=7（元）

（2）她买的可能是足球、七巧板。

20÷4=5（个）　20÷5=4（个）

4. 新题型抢分卷

一、1. 30　8　36

2. 33

【点拨】“一本 60 页的课外书”是多余条件，每天看 8 页，看了 4 天，已经看了 4×8=32（页），第 5 天要从第 33 页看起。

3. 16　4

4. 4　2

5. 15

【点拨】每行可以摆 5 个，摆 3 行，3×5=15（个）。

6. 24　18

【点拨】买 1 支钢笔的钱可以买 6 支圆珠笔，则买 4 支钢笔的钱就可以买 4×6=24（支）圆珠笔。每支圆珠笔 3 元，6 支圆珠笔就是 3×6=18（元），也就是 1 支钢笔的价钱。

7. 9　6　3　2

二、1. ①

2. ①

3. ③

4. ②

5. ③

三、1. 4　30　9　15　3　15　12　4

2. 79−36+45=88　27+46+18=91

$$\begin{array}{r} 79 \\ -\ 36 \\ \hline 43 \\ +\ 45 \\ \hline 88 \end{array} \qquad \begin{array}{r} 27 \\ +\ 46 \\ \hline 73 \\ +\ 18 \\ \hline 91 \end{array}$$

54−26−8=20

$$\begin{array}{r} 54 \\ -\ 26 \\ \hline 28 \\ -\ 8 \\ \hline 20 \end{array}$$

四、1.（1）3+1=4（人）　24÷4=6（颗）

【点拨】乐乐和他的 3 个好朋友一共是 4 人，所以用总颗数 ÷ 人数 = 平均每人折的颗数。

（2）24÷3=8（颗）

【点拨】用总颗数 ÷3= 平均每种颜色的颗数。

2.（1）最少：1×2=2（粒）

最多：2×3=6（粒）

（2）最多：18÷2=9（天）

最少：18÷6=3（天）

教辅资料站
关注微信公众号“教辅资料站”获取更多学习资料

好卷

微卷
助冲满分

WEIJUAN ZHUCHONG MANFEN

二年级

数学（上）（SJ版）



- 核心考点突破卷（12套）
- 期末冲刺抢分卷（4套）

关注微信公众号“数辅资料站”获取更多学习资料

目录

核心考点 突破卷

1 100 以内的连加、连减、加减混合计算 …… 1
2 100 以内加、减法的实际问题 …… 3
3 平行四边形的初步认识 …… 5
4 乘法的初步认识 …… 7
5 1~6 的乘法口诀计算 …… 9
6 表内乘法的实际问题 …… 11
7 除法的初步认识 …… 13
8 1~6 的乘法口诀求商 …… 15
9 表内除法的实际问题 …… 17
10 厘米和米 …… 19
11 7~9 的乘法口诀和用乘法口诀求商 …… 21
12 观察物体 …… 23

期末冲刺 抢分卷

1 高频考点抢分卷 …… 25
2 易错题抢分卷 …… 27
3 常见难题抢分卷 …… 29
4 新题型抢分卷 …… 31

参考答案及点拨 （见大卷第 33~36 页）

关注微信公众号“教辅资料站”获取更多学习资料

1 100以内的连加、连减、加减混合计算

班级 | 姓名 | 得分

满分: 100分 时间: 40分钟

一、仔细审题，填一填。（每空 2 分，共 24 分）

1. 比 45 多 16 的数是（　　），（　　）比最大的两位数少 20。

2. 在○里填上“>”“<”或“=”。

35+8 ○ 60−7　　54+30 ○ 44+51　　91−11 ○ 85−7

60−30−6 ○ 42　　9+56−39 ○ 34　　55+20+6 ○ 81

3. 算出每条线上 3 个数的和，填在括号里。

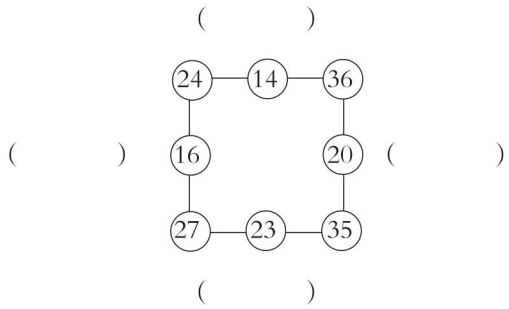

二、仔细推敲，选一选。（将正确答案的序号填在括号里）（每小题 4 分，共 12 分）

1. 七十几减二十几不可能是（　　）。

①三十几　　②四十几　　③五十几

2. 下面三个算式中都有数字被遮挡了，得数一定比 60 大的是（　　）。

① 90−3□　　② 43+2□　　③ 3□+1□

3. 在算式 5□+26 中，□里填（　　）不用向前一位进 1。

A. 1　　B. 4　　C. 5　　D.2

① A 和 B　　② A 和 D　　③ B 和 C

三、细心的你，算一算。（共 30 分）

1. 直接写出得数。（每小题 1 分，共 12 分）

38−22=	40+26=	26−26=	68−60+10=
76−26=	48+5=	58−16=	31+9+15=
6+14=	47+20=	88−12=	49−7−12=

关注微信公众号“教辅资料站”获取更多学习资料

2. 列竖式计算。（每小题 3 分，共 18 分）

29+17+36=　　58+32−23=　　58−26−15=

74−16−33=　　62−38+40=　　35+17+25=

四、啄木鸟医生。（对的画“√”，错的画“×”，并改正）（每小题 4 分，共 8 分）

1.
$$\begin{array}{r} 26 \\ +\ 38 \\ \hline 54 \\ +\ 17 \\ \hline 61 \end{array}$$
改正：

（　　）

2.
$$\begin{array}{r} 86 \\ -\ 28 \\ \hline 68 \\ +\ 11 \\ \hline 79 \end{array}$$
改正：

（　　）

五、观察第一个图上 4 个数之间的关系，补全其他图上的数。（每小题 4 分，共 12 分）

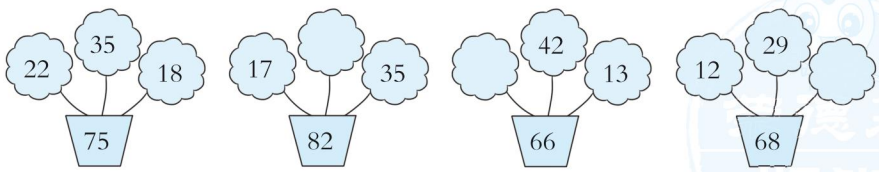

六、小小送信员。（14 分）



关注微信公众号“数辅资料站”获取更多学习资料

2 100以内加、减法的实际问题

班级 | 姓名 | 得分

满分: 100分 时间: 40分钟

一、仔细审题，填一填。（每空 3 分，共 18 分）

1. 红红送给豆豆 8 枚邮票后，两人的邮票枚数就一样多了，原来豆豆比红红少（　　）枚邮票，如果红红有 30 枚邮票，那么豆豆有（　　）枚邮票。

2. 小芳、小明和小红三人比赛跳绳，小红跳了 50 下，小芳跳的比小红多，小明跳的比小红少，小芳最少跳了（　　）下，小明最多跳了（　　）下。

3. 一辆公交车上原有 24 名乘客，到站后有 19 名乘客下车，又上来 12 名乘客。这辆公交车上现在的人数比原来（　　）（填“多”或“少”）（　　）人。

二、仔细推敲，选一选。（将正确答案的序号填在括号里）（每小题 4 分，共 12 分）

1. 有 36 只小鸡在草地上玩，跑走了 8 只，又来了 24 只，现在有（　　）只。

① 53　　② 52　　③ 20

2. 小力、小文、小明看同一本书，小力比小明多看了 16 页，小文比小明多看了 24 页，小力比小文少看了（　　）页。

① 40　　② 8　　③ 32

3. 学校足球队有 23 人，_____，田径队有多少人？要求“田径队有多少人”，可以补充的信息是（　　）。

A. 田径队比足球队多 3 人　　B. 田径队比羽毛球队多 3 人

C. 乒乓球队比足球队多 3 人　　D. 田径队比足球队少 3 人

① A 和 B　　② B 和 C　　③ A 和 D

三、操作题。（共 16 分）

1.

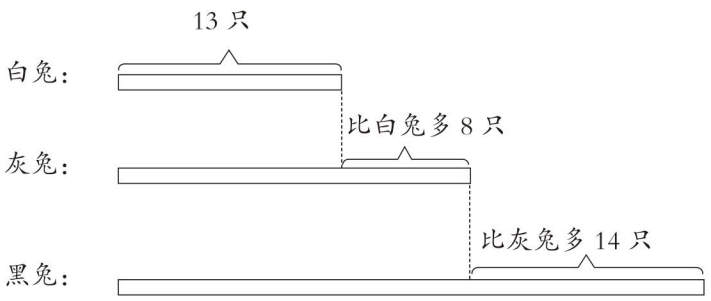

白兔比黑兔少（　　）只。（4 分）

关注微信公众号“教辅资料站”获取更多学习资料

2. 王大爷一共收了6筐苹果，质量如下。请你帮王大爷把下面的6筐苹果分成两份，每份一样多。（12分）



把质量为（　　）千克、（　　）千克和（　　）千克的放一起，把（　　）千克、（　　）千克和（　　）千克的放一起。

四、看图列式计算。（每小题6分，共12分）

1.

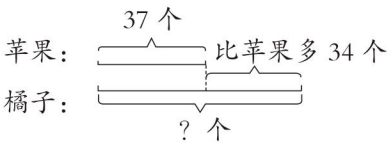

□ ○ □ = □（　　）

2.

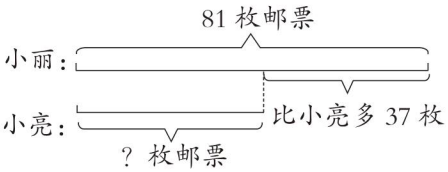

□ ○ □ = □（　　）

五、聪明的你，答一答。（共42分）

1. 小明想买三样不同的玩具，最多要花多少元？最少要花多少元？（14分）

					
25元	22元	24元	15元	28元	10元

2. 妈妈今年35岁，5年前，小月比妈妈小26岁，小月今年多少岁？（14分）

3. 贝贝拔了多少个萝卜？毛毛拔了多少个萝卜？（14分）

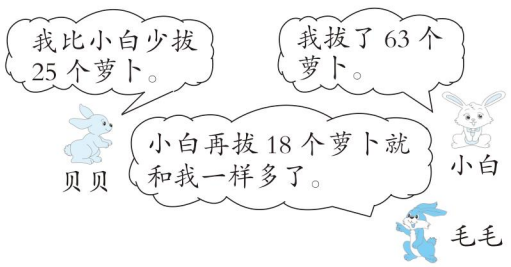

关注微信公众号“数辅资料站”获取更多学习资料

一、仔细审题，填一填。（每空 3 分，共 30 分）

1. 按图中的虚线折一折，折后的图形分别是几边形？填一填。

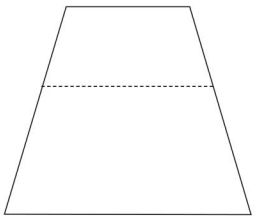

（　　）边形

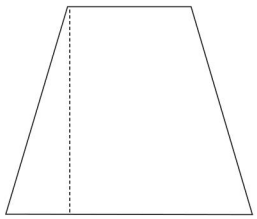

（　　）边形

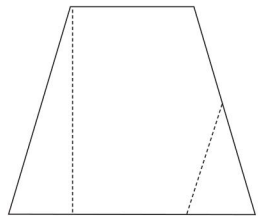

（　　）边形

2. 观察右边的七巧板，填一填。

（1）用两块板拼成一个三角形：（　　）和（　　）或（　　）和（　　）。

（2）用三块板拼成一个平行四边形：（　　）、（　　）和（　　）。

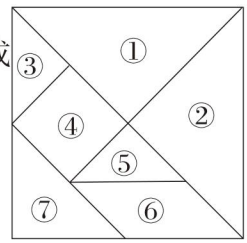

二、仔细推敲，选一选。（将正确答案的序号填在括号里）（每小题 4 分，共 24 分）

1. 用 5 根同样长的小棒不可以摆出（　　）。

①三角形　　②平行四边形　　③五边形

2. 把一张正方形的纸对折一次，不可能得到两个（　　）。

①长方形　　②平行四边形　　③三角形

3. 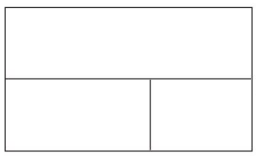
左图中一共有（　　）个长方形。

①3　　②4　　③5

4. 把一张正方形纸剪去一个角，剩下的图形不可能是（　　）。

①三角形　　②平行四边形　　③五边形

5. 摆 2 个独立的六边形，至少需要（　　）根小棒。

①6　　②11　　③12

关注微信公众号“教辅资料站”获取更多学习资料

6. 下图中，可以拼成平行四边形的两个三角形是（　　）。

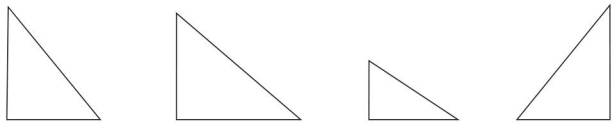

（1）　（2）　（3）　（4）

①（1）（4）　②（2）（4）　③（1）（3）

三、操作题。（共 46 分）

1. 下面的方格纸上已经画出了平行四边形的两条边，你能画出另外两条边吗？（10 分）

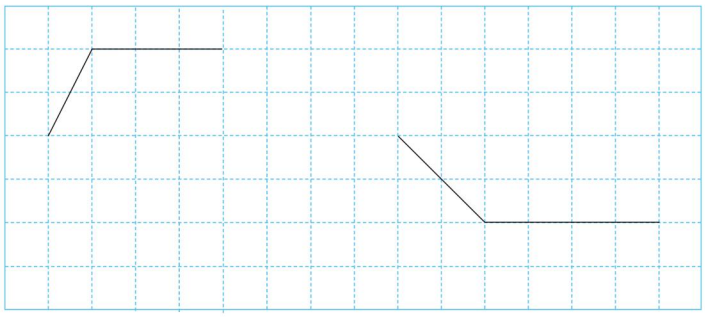

2. 在下面的图形上剪一刀，使剪开后的两部分能拼成一个平行四边形。在图上画出你的剪法。（每小题 4 分，共 12 分）

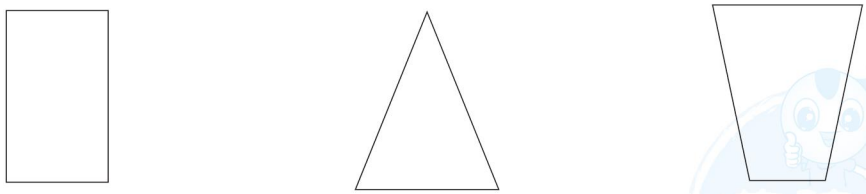

3. 分成一个三角形和一个四边形。（每小题 4 分，共 12 分）

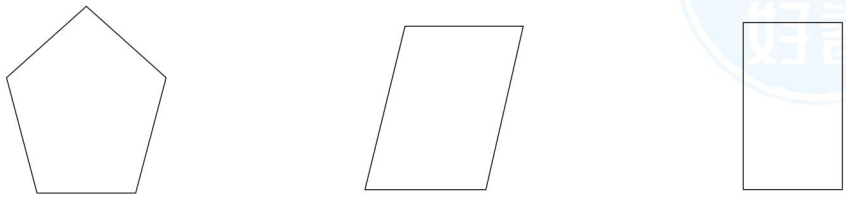

4. 分成两个四边形。（每小题 4 分，共 12 分）



关注微信公众号“数辅资料站”获取更多学习资料

4 乘法的初步认识

班级 | 姓名 | 得分 | 满分：100分 时间：40分钟

一、仔细审题，填一填。（第3小题8分，第4小题9分，其余每空1分，共40分）

1.（1） 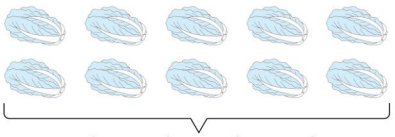

（　　）个（　　）

加法算式：_____

乘法算式：_____

或_____

读作：_____或_____

（2） 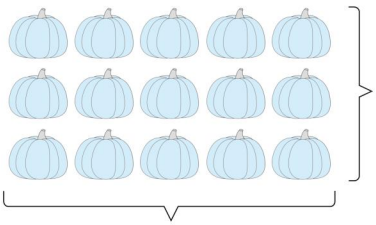

横着看：（　　）个（　　）

竖着看：（　　）个（　　）

加法算式：_____或_____

乘法算式：_____或_____

2. 5乘6写作（　　），4×3读作（　　）。一个乘数是6，另一个乘数是3，写作（　　），这个算式可以表示（　　）个（　　）相加，也可以表示（　　）个（　　）相加。两个乘数都是5，乘法算式是（　　）。

3. 把加法算式改写成乘法算式。

1+1+1+1+1=_____　　6+6=_____

5+5+5+5=_____　　4+4+4=_____

4. 把乘法算式改写成加法算式。

5×2=（　　）+（　　）　△×3=（　　）+（　　）+（　　）

3×6=（　　）+（　　）+（　　）+（　　）+（　　）+（　　）

二、列式计算。（每小题4分，共20分）

1. 两个乘数都是6，积是多少？

2. 6个5相加是多少？

关注微信公众号“教辅资料站”获取更多学习资料

3. 2 个 3 相加是多少？

4. 4 和 4 相乘，积是多少？

5. 一个乘数是 2，另一个乘数是 6，积是多少？

三、争做合格的邮递员。（12 分）

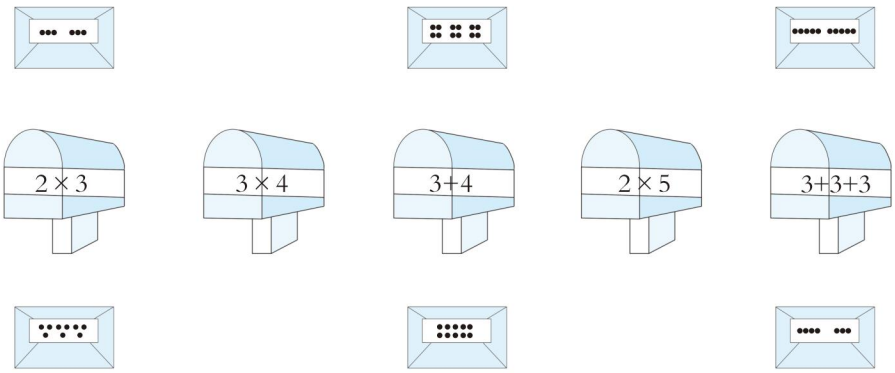

四、画图表示下面算式的含义。（每小题 4 分，共 8 分）

3×6

3+6

五、聪明的你，答一答。（共 20 分）

1. 刘奶奶家养了两种不同的鸡，一种有 4 只，另一种有 5 只。她还养了 3 种不同的鸭子，每种有 4 只。

（1）刘奶奶家养了多少只鸡？（6 分）

（2）刘奶奶家养了多少只鸭子？（6 分）

2. 搭 6 个这样的图形需要多少个方块？（8 分）

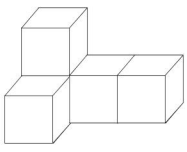

关注微信公众号“数辅资料站”获取更多学习资料

一、仔细审题，填一填。（每空 3 分，共 33 分）

1. 从左边筐里拿 4 个梨放入右边筐里，两个筐里的梨就同样多，原来左边筐里比右边筐里多（　　）个梨。

2. 在括号里填上合适的单位。

小红的身高是 140（　　），她两步大约长 1（　　）。

3. 在○里填上“>”“<”或“=”。

4×4 ○ 8　　23+48 ○ 71　　3+3 ○ 3×3

1 米 ○ 99 厘米　　28÷4 ○ 2×4　　52−18 ○ 26+15

4. 一盒药，共 30 粒，说明书上写着“每次 5 ~ 6 粒”。这盒药最少能吃（　　）次，最多能吃（　　）次。

二、仔细推敲，选一选。(将正确答案的序号填在括号里)（每小题 4 分，共 16 分）

1. 二（1）班图书角原有图书 78 本，借出了 6 本，老师又购进了 15 本，现在图书角有多少本图书？列式正确的是（　　）。

① 78−6−15　　② 78−6+15　　③ 78+6+15

2. 对于 5×9 和 9×5，下列说法正确的是（　　）。

①读法一样　　②计算时所用的乘法口诀相同　　③计算结果不同

3. 一根绳子长 72 米，剪成长度相等的若干段，每段长 8 米，剪了（　　）次。

① 8　　② 9　　③ 10

4. 哪一幅图是小男孩看到的？（　　）。



三、细心的你，算一算。（共 20 分）

1. 直接写出得数。（每小题 1 分，共 8 分）

6×8=　　42÷6=　　9×7=　　5×3+6=

4×7=　　27÷3=　　20÷4=　　4×6÷8=

关注微信公众号“教辅资料站”获取更多学习资料

2. 列竖式计算。（每小题 4 分，共 12 分）

38+15+29=　　82−16−54=　　70+21−45=

四、动手操作。（10 分）

在下面的点子图上画一个平行四边形，再在平行四边形内画一条线段，把平行四边形分成两个完全一样的三角形。



五、聪明的你，答一答。（共 21 分）

1. 早晨，6 只小猴子到树上摘了 48 个桃。

（1）平均每只小猴子摘了多少个桃？（6 分）

（2）猴妈妈分给每只小猴子 4 个桃当早饭，小猴子们一共分得了多少个桃？（6 分）

2. 二年级举行足球循环赛，二（1）班一共得了多少分？（9 分）



二（1）班赢了 5 场，平了 1 场。

赢一场得 3 分
平一场得 1 分

关注微信公众号“数辅资料站”获取更多学习资料

一、仔细审题，填一填。（每空 2 分，共 26 分）

1. 

（1）每盆有（　　）朵花，（　　）盆一共有（　　）朵花。

（2）有（　　）朵花，每（　　）朵花一盆，一共有（　　）盆。

（3）有（　　）朵花，平均分成了（　　）盆，每盆有（　　）朵花。

2. 从 64 里面连续减去 8，减（　　）次后还剩 8。

3. 照样子，把一张长方形纸沿虚线折一折，折出的是（　　）边形。

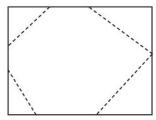

4. 二（1）班 15 个小朋友去划船，每条船最多可以坐 4 人，至少需要（　　）条船。

5. 在一个正方形花坛边栽树，每条边上栽 3 棵树（4 个角都栽），需要栽（　　）棵树。

二、仔细推敲，选一选。（将正确答案的序号填在括号里）（每小题 3 分，共 15 分）

1. 下图是平均分的是（　　）。

① 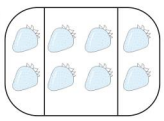

② 

③ 

2. 得数与 4 个 5 相加的和相等的算式是（　　）。

① 4+4+4+4　　② 4+5　　③ 5×4

3. 乐乐过生日，妈妈给他定做了一个漂亮的生日蛋糕（如图），从前面看到的是图（　　）。

① 

② 

③ 

4. 估一估，下图中的绳子大约长（　　）厘米。

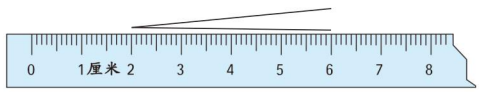

① 6　　② 4　　③ 8

关注微信公众号“教辅资料站”获取更多学习资料

5. 一本书共54页，小红6天看完，小明9天看完，谁平均每天看得多一些？（　　）。

①小红　　②小明　　③一样多

三、细心的你，算一算。（共24分）

1. 直接写出得数。（每小题1分，共12分）

$8\times7=$	$56-17=$	$30\div5=$	$2\times6+4=$
$64\div8=$	$64+8=$	$4\times4=$	$3\times2\times9=$
$63\div9=$	$37-20=$	$36\div4=$	$32\div4\div2=$

2. 列竖式计算。（每小题4分，共12分）

$16+34+29=$　　$80-26-25=$　　$49+44-17=$

四、看图列式计算。（第1小题8分，其余每小题6分，共20分）

1.



？朵

□○□○□=□（　）　　□○□○□=□（　）

2.

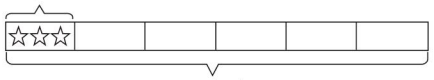

3个☆

？个☆

□○□=□（　）

3. ？个☆



42个☆

□○□=□（　）

五、聪明的你，答一答。（共15分）

1. 平均每人买了多少块橡皮？（5分）

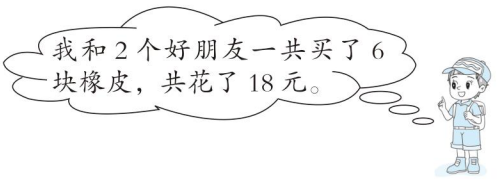

2. 平均每人花了多少元？（5分）

3. 平均每块橡皮多少元？（5分）

关注微信公众号“数辅资料站”获取更多学习资料

期末必备考点大盘点

一. 100以内的加法和减法（三）

- 加法运算
  - 从左到右的顺序计算
  - 解决使两组数量同样多的问题
    - 算减法：第一行拿走6个苹果就和第二行同样多
    - 增补法：第二行添上6个苹果就和第一行同样多。
    - 移多补少法：从第一行拿3个苹果移到第二行，两行苹果就同样多。
- 加减混合运算
  - 从左到右的顺序计算。
- 求比一个数多（少）几的数是多少
  - 求比一个数多几的数是多少，用加法计算。
  - 求比一个数少几的数是多少，用减法计算。
  - 一个文具盒18元，一支钢笔比一个文具盒贵13元，一支钢笔多少元？
  - 一个文具盒的价格是标准量。 18+13=31（元）

二. 平行四边形的初步认识

- 认识多边形
  - 三角形　四边形　五边形　六边形
  - 在平面内，由一些线段首尾顺次相接组成的封闭图形中，有几条边就是几边形。
- 认识平行四边形
  - 像这样的四边形是平行四边形。
  - 平行四边形上下两条边一样长，左右两条边也一样长。

三. 表内乘法（一）

- 乘法的初步认识
  - 求几个相同加数的和的简便运算
    - 加法：4+4+4=12（颗）
    - 乘法：3×4=12（颗）
    - 4×3=12（颗）
    - 4 × 3 = 12
    - 乘数 乘号 乘数 积
    - 读作：4乘3等于12。
    - 含义：求相同的加数和相同加数的个数。
- 乘加、乘减
  - 运算顺序：先算乘法，再算加法或减法。
  - 3×3+2=11
  - 3×4−1=11
  - 乘加：5×4+3=23（个）
  - 乘减：5×5−2=23（个）
- 解决问题
  - 求4个5相加的和是多少，用乘法计算，列式是4×5或5×4。
  - 求5和4合起来是多少，用加法计算，列式是5+4。
- 1至6的乘法口诀
  - 几的乘法口诀就有几句，每相邻两句口诀的积就相差几。

四. 表内除法（一）

- 认识平均分
  - 把一些物品分成几份，每份分得同样多叫平均分。
  - 把一些物按指定每份的个数平均分，求分成的份数。
  - 含义：8本故事书，每2本一份，可以分成几份？圈一圈。
  - 把一些物体按指定的份数平均分，求每份的个数。
  - 把12串葡萄平均分给4个小朋友，每个小朋友分得几串？圈一圈。
  - 分法：平均分的问题，用除法解决，总数作被除数，份数作除数，每份的个数作商。如果指定每份几个，那么总数作被除数，每份的个数作除数，份数作商。
  - 12 ÷ 2 = 6
  - 被除数 除号 除数 商
  - 读作：12除以2等于6。
- 用1~6的乘法口诀求商
  - 用乘法口诀求商，先想除数和几相乘得被除数，再用补充乘法口诀的形式求得除法的商。
  - 15÷3=（5）想：三（五）十五，商是（5）。
  - 12÷3=4（个）　12÷4=3（串）
- 解决问题
  - 20个苹果，每个小朋友分4个，可以分给几个小朋友？
  - 20÷4=5（个）
  - 总数÷每份个数=分成的份数
  - 20个苹果，平均分给5个小朋友，每人分得几个苹果？
  - 20÷5=4（个）
  - 总数÷分成的份数=每份个数
- 除法的初步认识

五. 厘米和米

- 认识线段
  - 特征
    - 1.线段是直的。2.有两个端点。
    - 3.可以量出长度。
  - 画线段的方法：将尺子放平、按紧，笔尖紧接尺子的一边画线段。
  - 画线段
- 认识厘米
  - 量比较短的物体的长度，可以用厘米作单位。厘米可以用字母“cm”表示，1厘米可以写成1cm。
  - 测量方法：对准刻度“0”　读数
  - 量得这支铅笔长6cm。
- 认识米
  - 量比较长的物体的长度，通常用米作单位。米可以用字母“m”表示，1米可以写成1m。
  - 米和厘米的关系：1米=100厘米
- 选择合适的长度单位
  - 联系实际选择合适的长度单位。
  - 客车长4米。
  - 扫帚高80厘米。

六. 表内乘法和表内除法（二）

- 7~9的乘法口诀
  - 几的乘法口诀就有几句，每相邻两句口诀的积就相差几。
  - 用口诀求商：先想除数和几相乘得被除数，再用补充口诀的形式求得除法的商。
  - 48÷8=（6）
  - 想：（六）八四十八，商是（6）。
  - 24÷3=8（个）
  - 24÷8=3（组）
  - 口诀是：三八二十四
- 用7~9的乘法口诀求商
- 连乘、连除、除除混合运算
  - 从左到右的运算顺序进行计算。
  - 2×4×3=24　72÷9÷2=4
  - 8　8
  - 8×3÷4=6　36÷4×5=45
  - 24　9
- 解决问题
  - 解决实际问题时，先找出已知信息，弄清楚问题求的是什么，再理清题中的数量关系。
  - 贝贝用72元钱，买了9本[ ]，一本[ ]多少钱？
  - 72÷9=8（元）
  - 把一个数平均分成几份，求每份是多少，用除法计算。
  - 小菲去买[ ]，一支[ ]4元，她有36元钱，
  - 小菲可以买几支[ ]？
  - 36÷4=9（支）
  - 求一个数里有几个几，用除法计算。
  - 一本故事书8元钱，买9本需要8×9=72（元）。
  - 单价×数量=总价
  - 把32个苹果平均分给4组小朋友，每组8人，每人可以分到几个苹果？　32÷4=8=1（个）
  - 先算每组分得几个苹果，再算每人可以分到几个苹果。
- 乘法口诀表
  - 乘法口诀一共有45句。根据一句乘法口诀一般可以写出两道乘法算式和两道除法算式，但两个乘数相同的口诀，只能写出一道乘法算式和一道除法算式。

七. 观察物体

- 根据看到的形状，判断观察者的位置
  - 可以根据物体的形状、特点，判断观察者所在的位置。
  - 厨房　妈妈　爸爸　奶奶
- 根据观察者所在的位置，判断观察者看到的形状
  - 同一物体，观察的位置不同，看到的形状可能不同。

关注微信公众号“教辅资料站”获取更多学习资料

关注荣德基教育微官网，获取海量学习资源。
荣德基教育微官网：http://www.rongdejl.cn
荣德基天猫旗舰店：http://rongdejl.tmall.com
© 查服热线：182 1039 5892

图书在版编目（CIP）数据

好卷：SJ版，二年级数学，上 / 荣德基主编，—长春：吉林教育出版社，2012.5（2021.5 重印）
ISBN 978-7-5383-6270-0

Ⅰ，①好… Ⅱ，②荣… Ⅲ，③小学数学课—习题集 Ⅳ，④G624

中国版本图书馆 CIP 数据核字（2012）第 097529 号

好卷·二年级数学上（SJ版）
HAOJUAN · ER NIANJI SHUXUE SHANG (SJ BAN)

荣德基 主编　　本册主编 金 围

责任编辑 朱 林　　封面设计 典点瑞泰
责任审校 徐熙婷

出版 吉林教育出版社（长春市同志街 1991 号 邮编 130021）
发行 吉林教育出版社
印刷 肃宁县科发印刷厂

开本 880 毫米×1 240 毫米 1/8 印张 6.5 字数 106 千字
版次 2012 年 5 月第 1 版
印次 2021 年 5 月第 10 次印刷
定价 34.90 元

如有印装质量问题，请到所购图书销售部门联系调换。

声明 在图书编写过程中，我们参考并引用了部分资料，有部分文字及图片资料考虑未取得联系，特表歉忱。恳请这些作者及时与我们联系，以便我们取付稿酬。

大卷全程培优　微卷助冲满分







定价：34.90元

二年级 数学 上（SJ版）

关注微信公众号“教辅资料站”获取更多学习资料