教辅资料站
电子教辅 个性学习
扫码关注获取更多学习资料

中国品牌创新发展工程
推荐品牌

大卷达标 小卷领先

好卷

DAJUANDABIAO XIAOJUANLINGXIAN

大卷达标 小卷领先

大卷达标 | **单元** 检测卷（5套） | **模块** 过关卷（2套） | **仿真** 模拟卷（3套）

小卷领先 | **周测** 培优卷（9套） | **专项** 提升卷（5套） | **题型** 突破卷（5套）



2 数学 年级（上）（XS版）

本册主编：李碧容 冷 静

时代出版传媒股份有限公司
安徽教育出版社

好卷 = 《大卷》+《小卷》

大卷达标 小卷领先

不是所有的试卷都叫“好卷”，期末提分才是硬道理！



大卷 同步测评用

单元检测卷

第一单元 跟踪检测卷 …… 1
第二单元 跟踪检测卷 …… 3
第三单元 跟踪检测卷 …… 5
第四、五单元 跟踪检测卷 …… 7
第六单元 跟踪检测卷 …… 9

小卷 同步测评用

周测培优卷

1，2，3的乘法口诀 …… 01
4，5的乘法口诀 …… 03
角的初步认识 …… 05
6，7，8，9的乘法口诀 …… 07
观察物体 …… 09
测量长度 …… 11
除法的初步认识 …… 13
用乘法口诀求商 …… 15
倍的认识和解决问题 …… 17

大卷 期末冲刺用

模块过关卷

数与代数 …… 11
图形与几何 …… 13

仿真模拟卷

仿真模拟卷（一） …… 15
仿真模拟卷（二） …… 17
仿真模拟卷（三） …… 19

专项提升卷

乘法的初步认识 …… 19
6，7，8，9的乘法口诀 …… 21
角的认识和测量长度 …… 23
表内除法 …… 25
倍的认识和解决问题 …… 27

小卷 期末冲刺用

题型突破卷

填空题 …… 29
计算题（一） …… 31
计算题（二） …… 33
图形题 …… 35
应用题 …… 37

| 大卷答案▶ 见大卷21~24页 / 小卷答案▶ 见小卷39~46页 |

关注微信公众号“教辅资料站”获取更多学习资料

第一单元 跟踪检测卷

表内乘法（一）

时间：90分钟　满分：100+10分

题号	一	二	三	四	五	六	附加题	总分
得分								

一、填空。（第6，第7题每题3分，其余每空1分，共34分）

1. 一共有多少个？



横着看，是(　　)个(　　)相加，写成加法算式是（　　）。

竖着看，是(　　)个(　　)相加，写成加法算式是（　　）。

写成乘法算式是(　　)或(　　)。

2. 求几个(　　)加数的和，用乘法计算比较简便。在8+8+8+8+8+8这个算式中，相同加数是(　　)，相同加数的个数是(　　)。

3. 一个因数是3，另一个因数是6，积是(　　)。

4. 把下列加法算式改写成乘法算式并计算。

3+3+3+3+3=_____

6+6+6+6=_____

5. 将乘法口诀补充完整，再根据每句口诀写两道乘法算式。

(　　)十八　_____　_____

(　　)十八　_____　_____

6. 在(　　)里填上“+”“-”或“×”。

6(　　)5=11　　5(　　)2=10　　5(　　)5=0

5(　　)3=15　　5(　　)1=4　　3(　　)4=7

7. 在◯里填上“>”“<”或“=”。

2×5◯2+5　　4×5◯5+5+5+5　　3×6◯3+6

1×5◯5　　2+2◯2×2　　2×6+2◯3×5+3

8. □里最大能填几？

5×□<30　　3×□<24　　6×□<20　　2×□<11

□×3<15　　4×□<35　　□×5<41　　□×4<21

二、判断。（每题2分，共10分）

1. 求几个加数的和，用乘法计算比较简便。（　　）
2. 3×6既可以表示3个6相加，也可以表示6个3相加。（　　）
3. 5×9与9×5的读法和结果都相同。（　　）
4. 3+3和3×3都可以表示3个3相加。（　　）
5. 6+6+6+5=6×4-1（　　）

三、选择。（每题2分，共12分）

1. 5个6相加，用算式表示是(　　)。

A. 5+6　　B. 6×5　　C. 5+5+5+5+5+5

2. 4个3加上2个3共是(　　)。

A. 6个3　　B. 5个3　　C. 7个3

3. 与7×5+7的结果相等的是(　　)。

A. 8×5　　B. 7×3　　C. 7×6

4. 下列算式中，不能用3×6表示的是(　　)。

A. 7×3-3　　B. 2×6+3　　C. 3+3+3+3+3+3

5. 在算式5×7=35中，5，7，35分别叫作(　　)。

A. 加数，加数，和　　B. 因数，因数，和　　C. 因数，因数，积

6. 4+4+4+4+4+3也可以写成(　　)。

A. 4×6　　B. 4×5+3　　C. 4×6-3

四、根据题意列式计算。（8分）

6辆  轮子的个数

_____

3只  腿的条数

_____

4只  腿的条数

_____

5头  腿的条数

_____

正点提示：请不要在密封线内答题哦！

关注微信公众号“教辅资料站”获取更多学习资料

五、帮刺猬找家。（连一连）（9分）



六、解决问题。（第1题4分，第2题8分，其余每题5分，共27分）

1. 石板榧粑是重庆市江津区中山古镇闻名中外的特产，每个2元钱，小明打算买5个，需要付多少元？

2. 我家有4口人。

（1）每人有2只手，4人共有几只手？



（2）每只手有5根手指，8只手共有多少根手指？

3. 如图，1张桌子配4把椅子，5张桌子一共要配多少把椅子？



4. 妈妈买了一些苹果，分给3个小朋友，每个小朋友分6个，还剩4个苹果。妈妈买了多少个苹果？

5. 3个小朋友做红花，每人做了5朵。送给幼儿园的小朋友3朵，还剩多少朵？

附加题：（10分）

一根绳子对折以后再对折，每段长7米，这根绳子长多少米？

自己说说

老师点评

家长点评

荣德基好卷
荣德基好卷
微信公众号
教辅资料站
关注微信公众号“教辅资料站”获取更多学习资料

第二单元 跟踪检测卷

角的初步认识

时间：90分钟　满分：100+10分

题号	一	二	三	四	五	六	附加题	总分
得分								

姓名 学号 班级 学校

一、填空。（第1题5分，其余每空2分，共21分）

1. 写出下图中各是什么角。

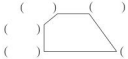

（　）（　）
（　）
（　）（　）

2. 一条红领巾上有（　　）个角，其中有（　　）个锐角。
3. 拿一张圆形纸，先上下对折，再（　　）对折可以得到直角。
4. 我们学过的角中，比直角小的角是（　　）角，比直角大的角是（　　）角。
5. 判断一个角是锐角还是钝角，需用三角板上的（　　）去比一比。
6. 角的大小与（　　）的大小有关，与（　　）无关。

二、判断。（每题2分，共14分）

1. 所有的直角都一样大，所有的锐角都一样大，所有的钝角也一样大。（　　）
2. 直角都比锐角大。（　　）
3. 黑板上的直角比三角板上的直角大得多。（　　）
4. 锐角比直角小，钝角比直角大。（　　）
5. 在所有的角中，直角是最大的。（　　）
6. 长方形有4个直角。（　　）
7. 三角板上有3个角，其中最大的那个角是钝角。（　　）

三、选择。（每题3分，共15分）

1. 下图中，不是角的是（　　）。



A　　B　　C

2. 一块三角板中，有（　　）个直角，（　　）个锐角。

A. 1　　B. 2　　C. 3

3. 下列角中，最大的是（　　）。

A. 直角　　B. 锐角　　C. 钝角

4. 下图中，有（　　）个角。

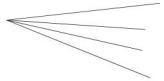

A. 4　　B. 5　　C. 6

5. 把一个角的两边再画长一些，角的度数（　　）。

A. 变大　　B. 变小　　C. 不变

四、分一分。（12分）

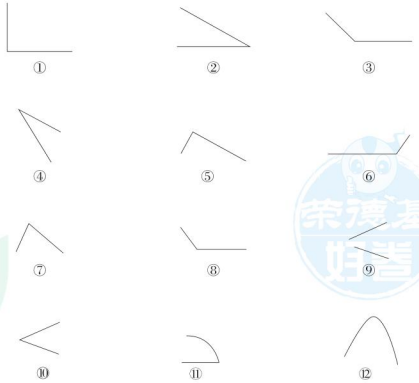

①　②　③
④　⑤　⑥
⑦　⑧　⑨
⑩　⑪　⑫

角：（　　）　　锐角：（　　）
直角：（　　）　　钝角：（　　）

正点助手：请不要在密封线内答题哦！

关注微信公众号“教辅资料站”获取更多学习资料

五、数一数，填一填。（第 1 题 8 分，第 2 题 12 分，共 20 分）

1. 图中各有几个角？



（　　）个　　（　　）个　　（　　）个　　（　　）个

2.



（　　）个直角　　（　　）个直角　　（　　）个锐角

六、画一画。（每题 9 分，共 18 分）

1. 按要求画角。

（1）画一个比直角小的角。

（2）画一个比直角大的角。

（3）画一个有直角的三角形。

2. 按要求在钟面上画时针和分针。

（1）使时针和分针成直角。



（2）使时针和分针成锐角。



（3）使时针和分针成钝角。



附加题：（10 分）

按要求在下列图形中画一条线。

1. 增加 4 个直角。



2. 增加 3 个直角。



3. 增加 2 个直角。



4. 增加 1 个直角。



关注微信公众号“教辅资料站”获取更多学习资料

题号	一	二	三	四	五	附加题	总分
得分							

一、填空。（第1题6分，其余每空1分，共34分）

1. 在方框里填上合适的数。

（1）5+5+5+5+5+5=30 □×□=□或□×□=□

（2）△△ △△ △△ △△ △△ △△ △ △ △ 表示□个□相加是□，列式为□×□=□。

（3）



？只

□×□+□=□（只）或□×□-□=□（只）

2. 看图写算式。



加法算式：（　　）。

乘法算式：（　　）。

除法算式：（　　）。

3. 在○里填上“+”“-”“×”或“÷”。

7○8=56　16○8=2　6○6=0　7○6=13

27○9=15　5○4○3=49　7○18○9=16　7○9○9=1

4. （　　）里最大能填几？

（　　）×7<36　8×（　　）<36　30>（　　）×9

（　　）×9<75　30>（　　）×7　47>（　　）×8

（　　）×6<20　（　　）×6<39

5. 填表。

被除数	48	81		36
除数	6		4	4
商		9	5	

6. 如果▲+▲+▲+▲+▲+▲=42，那么▲=（　　）。

7. 把7+7+7+7+8改写成乘加算式是（　　）。

二、判断。（对的打“√”，错的打“×”）（每题2分，共10分）

1. 把10本书分成2份，每份一定是5本。（　　）
2. 6个3相加的和是9。（　　）
3. 一根15米长的绳子，每3米剪一段，需要剪5次才能剪完。（　　）
4. 一句乘法口诀能写出两个乘法算式。（　　）
5. 7+7+7=7×3或3×7（　　）

三、计算。（第1题8分，第2题10分，共18分）

1. 直接写得数。

5×2=	56÷8=	6×6+34=	4×9+4=
54÷6=	2×3=	25÷5+25=	4×6-6=

2. 列式计算。

（1）2个3相乘，结果是多少？

（2）5与5相加的和是多少？

（3）一个因数是6，另一个因数是3，积是多少？

（4）一个加数是6，另一个加数是3，和是多少？

温馨提示：请不要在密封线内答题哦！
微信公众号 教辅资料站
关注微信公众号“教辅资料站”获取更多学习资料

四、画一画。（每题 4 分，共 8 分）

○○○○○○

1. 画△，使△的个数是○的 3 倍。

2. 画△，使○的个数是△的 3 倍。

五、解决问题。（第 1 题 4 分，第 2 题 8 分，第 3 题 5 分，第 4 题 13 分，共 30 分）

1. 跳绳的有多少人？



2. 游乐场中，过山车有 8 排座位，每排座位可坐 2 人，旋转木马共有 5 个双人座。

（1）过山车一次可以坐多少人？

（2）旋转木马一次能坐多少人？

3. 小明到商店里买铅笔。他想买 7 支铅笔，付 2 元够吗？



4. 学校组织了课外小组。



（1）跳绳的有多少人？

（2）体操队有多少人？

（3）请你提出其他数学问题，并解决。

附加题：（10 分）

校园里要栽 10 棵小树，栽成 5 行，每行 4 棵，可以怎么栽？

自己说说

老师点评

家长点评

荣德基好卷

微信公众号
教辅资料站

关注微信公众号“教辅资料站”获取更多学习资料

荣德基 好卷 2年级 数学 上（XS版）

期末总复习

仿真模拟卷（一）

时间：90分钟　满分：100+10分

题号	一	二	三	四	五	六	七	附加题	总分
得分									

一、填空。（每空1分，共31分）

1. 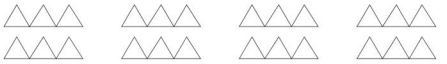

列加法算式为（　　）。

列乘法算式为（　　）。

2. 把5+5+5+5+5+5改写成乘法算式为（　　）。

把4+4+4+3改写成乘加算式为（　　），改写成乘减算式为（　　）。

3. 72÷8读作（　　）除以（　　）。

4. 在8×5=40中，因数是（　　）和（　　），40是（　　）。

5. 30里面有（　　）个5，30是5的（　　）倍。

6. （　　）的4倍是8，7的5倍是（　　）。

7. 下图中有（　　）个角，其中有（　　）个直角。



8. 在下面的（　　）里填上“cm”“dm”或“m”。



大约长18（　　）　高15（　　）　长20（　　）　身高1（　　）75（　　）

9. 在括号里填上适当的数。

9×（　　）=36　　（　　）×8=64　　（　　）÷6=3

56−（　　）=47　　32÷（　　）=4　　（　　）÷9=1

10. 按规律填数。



二、判断。（每题1分，共5分）

1. 5+5+5+5可以改写成5×4。（　　）

2. 把36分成9份，每份是4。（　　）

3. （　　）×6<45，（　　）里最大能填8。（　　）

4. 4的9倍就是求9个4相加是多少。（　　）

5. 6+6+6+6+6+5=6×6−1（　　）

三、选择。（每题2分，共8分）

1. 4个7相加的和是多少？列式为（　　）

A. 4+7　　B. 4×7　　C. 4+4+4+4

2. 有一盘桃，比6个多，比10个少，平均分给4只小猴子正好分完。这盘桃有（　　）个。

A. 7　　B. 8　　C. 9

3. 一个三角板上最多有（　　）个直角。

A. 1　　B. 2　　C. 3

4. 一个数的5倍是5，这个数是（　　）

A. 25　　B. 1　　C. 0

四、计算。（第1题10分，其余每题6分，共22分）

1. 看谁算得快。

35÷7=　　18÷9=　　9×8=　　9×3=　　21÷3=

6×7=　　8×3=　　18÷2=　　7×2=　　2÷2=

2. 在◯里填上“>”“<”或“=”。

3×8◯7×4　　9×6−8◯5×9　　42÷7◯40÷5

18−6◯18÷6　　1 m+20 cm◯13 dm　　50 cm+50 cm◯1 dm

姓名　学号　班级　学校
密　封　线
请不要在密封线内答题哦！
荣德基 好卷
微信公众号 教辅资料站

关注微信公众号“教辅资料站”获取更多学习资料

3. 在下面◯里填上“+”“-”“×”或“÷”。

6 ◯ 7 = 42　　4 ◯ 4 = 16　　36 ◯ 6 = 6

5 ◯ 5 = 1　　8 ◯ 7 = 56　　8 ◯ 8 = 64

五、选一选，把序号填在对应的框里。(8 分)

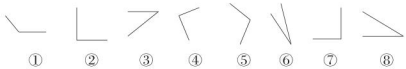

钝角　　直角　　锐角

六、想一想，连一连。(5 分)



七、解决问题。(第 2 题 6 分，其余每题 5 分，共 21 分)

1. 欢欢的妈妈买回家 27 个苹果，爸爸、妈妈、欢欢每人一天吃一个，几天能吃完？

2. 同学们剪小旗，小黄旗有 8 面，小红旗的面数是小黄旗的 3 倍。(先提出问题，再列式计算)

3. 二（1）班的 54 名同学去旅游，租 7 辆车够吗？



准载8人

4. 一条绳子对折一次后，又对折了一次，量得长 8 米，这根绳子原来长多少米？

附加题：(10 分)

小朋友们围成一个正方形做游戏，每边站 5 人，最少有几人？

关注微信公众号“教辅资料站”获取更多学习资料

第一单元跟踪检测卷

表内乘法（一）

一、1. 3　6　6+6+6=18（个）　6　3

3+3+3+3+3+3=18（个）

3×6=18（个）　6×3=18（个）

2. 相同　8　6

3. 18

4. 3×5=15（或5×3=15）

6×4=24（或4×6=24）

5. 二九　2×9=18　9×2=18

三六　3×6=18　6×3=18

6. +　×　−　×　−　+

7. >　=　>　=　=　<

8. 5　7　3　5　4　8　8　5

二、1. ×　【点拨】不是所有的加法都可以用乘法计算，只有加数相同才可以用乘法计算。

2. √

3. ×　【点拨】5×9和9×5的读法不同，结果相同。

4. ×　【点拨】3+3表示3与3相加，3×3表示3个3相加。

5. √

三、1. B

2. A　【点拨】4个3加上2个3共是6个3。

3. C　【点拨】5个7加上1个7就是6个7。

4. B

5. C

6. B　【点拨】4+4+4+4+4+3表示5个4加1个3。

四、4×6=24（个）

2×3=6（条）

8×4=32（条）

4×5=20（条）

五、



六、1. 2×5=10（元）

【点拨】1个糍粑2元，5个糍粑的价钱就是5个2元，即2×5=10（元）。

2. (1) 2×4=8（只）

【点拨】每人有2只手，4人就是4个2只手，即2×4=8（只）。

(2) 5×8=40（根）

【点拨】每只手有5根手指，8只手就是8个5根，即5×8=40（根）。

3. 4×5=20（把）

【点拨】5张桌子配椅子的把数就是5个4把，即4×5=20（把）。

4. 6×3+4=22（个）

【点拨】先算出分给小朋友的苹果总数，再加上剩余的4个苹果，即6×3+4=22（个）。

5. 5×3−3=12（朵）

【点拨】先算出小朋友做的红花的总数，再减去送给幼儿园小朋友的3朵，即5×3−3=12（朵）。

附加题：7×4=28（米）

【点拨】对折一次就是2段，对折两次就是4段。

第二单元跟踪检测卷

角的初步认识

一、1.

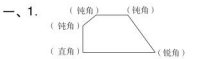

2. 3　2

3. 左右

4. 锐　钝

5. 直角

6. 角两边张开　两边的长短

二、1. ×

2. √

3. ×

4. √

5. ×

6. √

7. ×

三、1. C　2. A　B　3. C　4. C　5. C

四、角：①②③④⑤⑥⑦⑧⑩

锐角：②④⑦⑩

直角：①⑤

钝角：③⑥⑧

【点拨】考查学生分类整理的能力。

五、1. 5　7　5　7

2. 2　16　8

六、1. 略

2. 略

附加题：1.



2.



3.



4.



【点拨】答案不唯一。

第三单元跟踪检测卷

表内乘法（二）

一、1. 6　8　8　6

2. 因数　因数

3. 6×8=48　8×6=48

5×9=45　9×5=45

4. −　+　×　×　×　+　+　×

5. 48　6×8=48

6. 20　4×5=20（元）

关注微信公众号“教辅资料站”获取更多学习资料

7. 17　9　64　8　8（第三个图中的答案不唯一）

二、1. √

2. ×

3. ×

4. √

5. √

6. √

三、1. B　2. B　3. A　C　4. B

四、1. 48　36　27　49　45　32　64　24

2. 7　8　4　8　7　7

3.（1）8×7=56

（2）9×7+7=70　9×8−2=70

五、1. 7×9=63（朵）

【点拨】每束有7朵花，有9束，一共有9个7朵，即7×9=63（朵）。

2. 8×8=64（名）　64>60

8次可以比完。

【点拨】图中有8条跑道，每次最多有8名运动员赛跑，8次就是8个8名，即8×8=64（名），再与60比较大小。

3.（1）6×6+9=45（元）

【点拨】先算出6本《意林》的总价，再加上1本《少儿百科全书》的价格，即为题目所求。

（2）8×5+9=49（元）

49<50　50元钱够

【点拨】先算出5本《童话故事》的总价，再加上1本《少儿百科全书》的价格，最后再与50比较大小。

（3）略

附加题：15　【点拨】5个□的和是35，□是7，4个○的和是32，○是8，则□+○=7+8=15。

第四、五单元跟踪检测卷

观察物体和测量长度

一、1. 铭铭　强强　芳芳

【点拨】人站在哪个方向就看到物体的哪一面。芳芳站在恐龙的后面，看到的是恐龙的尾部，铭铭站在恐龙的侧面，看到的是恐龙的侧面，强强站在恐龙的前面，能看到它的嘴巴。

2. 米尺（答案不唯一）

3. 厘米　cm　分米　dm　米　m

4. 3　1

5. =　>　<　>　<　>

6. 10　10　100　50　8　9

【点拨】厘米与分米之间、分米与米之间的进率都是10。米与厘米之间的进率是100。

7. 6　4　6　4

二、分米　米　厘米　厘米　米　分米　厘米　米

三、1. A　2. C　3. B　4. A

四、8 dm　90 cm　100 cm　20 dm　5 m　10米　8米　60分米　1米　70厘米　1厘米

五、1. ③　2. ①　3. ②

六、略

七、1. 15+15=30（cm）　30 cm=3 dm

2.（1）亮亮

（2）86

（3）70

（4）43+35=78（米）

（5）35+12=47（米）

附加题：8−4=4（米）

4−2=2（米）

4÷2=2（天）

2+1=3（天）

【点拨】此题要注意最后一天直接爬上去就不下滑了。

第六单元跟踪检测卷

表内除法

一、1. 18　3　18　6　3　2. 3　9　3　3

3. 4+4+4=12　4×3=12（或3×4=12）

12÷4=3（或12÷3=4）

4. 54÷6=9　54÷9=6　6×9=54

9×6=54

5. 7　40　8　9

二、1. ×

2. ×

3. ×

4. √

5. √

三、1. A

2. A

3. C

4. B

5. A

6. C

四、1. <　=　>　<　<　=

2. 7　9　8　6　9　3

3. ÷　−　×　÷　+　÷

4.（1）30÷5　56÷8　64÷8　81÷9　3×4

（2）2×6　72÷8　42÷6　48÷8　45÷9

【点拨】注意区别“>”“<”的开口方向。

五、1. 35÷5=7（组）　每5个人分一组没有剩余。

2. 3×8=24（人）　24÷6=4（排）

【点拨】先算出一共有多少人，再算可以站几排。

3.（1）15÷3=5

（2）3×3=9（元）

4. 最多：12÷2=6（张）

最少：12÷6=2（张）

【点拨】求最多买几张，买单价最便宜的那种；求最少买几张，买单价最贵的那种。

附加题：4+3+2=9（个）

70÷9=7（组）……7（个）

第70个气球应该是粉气球。

关注微信公众号“教辅资料站”获取更多学习资料

【点拨】一组有 9 个气球，可知 70 个气球有 7 组，还余 7 个，按顺序最后一个就是粉气球。

期末总复习

模块过关卷　数与代数

一、1.（1）5×6=30　6×5=30

（2）3　5　15　5×3=15

（3）3×3+2=11　3×4−1=11

【点拨】两种方法解决，运用乘加或者乘减。

2. 6+6+6=18（或3+3+3+3+3+3=18）

6×3=18（或3×6=18）

18÷3=6（或18÷6=3）

3. ×　÷　−　+　÷　÷　+　÷　−　−　÷

4. 5　4　3　8　4　5　3　6

5.

被除数	48	81	20	36
除数	6	9	4	4
商	8	9	5	9

6. 7　7. 7×4+8（或7×5+1）

二、1. ×　【点拨】没有平均分。

2. ×

3. ×　【点拨】剪成 5 段只需要剪 4 次就可以。

4. ×　5. √

三、1. 10　7　70　40　9　6　30　18

2.（1）3×3=9

（2）5+5=10

（3）6×3=18

（4）6+3=9

四、1. △△△△△△△△△△△△△△△△△△△△

2. △△

五、1. 8×4=32（人）

2.（1）8×2=16（人）

（2）5×2=10（人）

3. 7×3=21（角）

2 元=20 角　21 角>20 角　不够。

【点拨】注意人民币的单位。

4.（1）3×4=12（人）

（2）5×5=25（人）

（3）略，答案不唯一，只要能提出问题并回答正确就行。

附加题：



10 棵小树呈五角星形状分布（如图），在五个顶点及连线的交叉点各栽一棵树，每条边 4 棵。

模块过关卷　图形与几何

一、1. 略

2. 锐　大

3. 4　直

4. 3　钝　锐

5. 米　厘米

6. 1

7. 3　5　5　90　100　10　1

8. >　>　<　=　<

二、1. ×　2. √　3. ×

4. ×　【点拨】角的大小和所画的边的长短没有关系。

5. √　【点拨】90 分米=9 米。

三、1. B　2. A　3. B　4. C

四、③⑤　②　①④⑥

五、1　2　4　3　4　8　3

六、

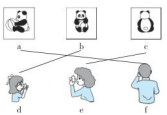

七、1. 8−1=7（个）　8×7=56（厘米）

【点拨】因为题中告诉我们相邻两枚贝壳之间的距离是 8 厘米，8 枚贝壳之间只有 8−1=7（个）间距。

2. 5×4=20（分米）　20 分米=2 米

【点拨】对折两次绳子变成了 4 段。

3.（1）小狗已经跑了 50 米。

（2）60−30=30（米）

附加题：6+5+4+3+2+1=21

仿真模拟卷（一）

一、1. 6+6+6+6=24

6×4=24（或4×6=24）

2. 5×6（或6×5）　4×3+3　4×4−1

3. 72　8

4. 8　5　积

5. 6　6

6. 2　35

7. 8　6

8. cm　m　dm　m　cm

9. 4　8　18　9　8　9

10. 9　5　8　9　【点拨】上面两个数的乘积等于下面圆圈里的数。

二、1. √

2. ×

3. ×

4. √

5. √

三、1. B

2. B

3. A

4. B

四、1. 5　2　72　27　7　42　24　9　14　1

2. <　>　<　>　<　>

3. ×　×　÷　÷　×　×

五、①⑤　②④⑦　③⑥⑧

六、



关注微信公众号“教辅资料站”获取更多学习资料

七、1. 27 ÷ 3 = 9（天）

【点拨】爸爸、妈妈、欢欢一共3人。

2. 答案不唯一，如：小红旗有多少面？

8 × 3 = 24（面）

3. 8 × 7 = 56（人）　56 > 54　够了。

【点拨】54名同学去旅游，7辆车能载56人，所以够。

4. 8 × 4 = 32（米）　【点拨】对折一次后，又对折了一次，就是对折两次，绳子变成了4段。需要学生找出隐藏条件。

附加题： 5 × 4 − 4 = 16（人）

【点拨】要使人数最少，就要充分利用正方形有四个角这个特征。

仿真模拟卷（二）

一、1. 8　24

2. 6　【点拨】还要剩下9，先用63减9后再除以9。

3. 7　0　8　（后两个空答案不唯一）

4. 分米　厘米　米

5. 18　6　【点拨】几楼和层数是不同的概念，3楼离地面两层。

6. （1）31　43【点拨】依次 + 2，+ 4，+ 6，+ 8，+ 10，+ 12。

（2）18　29【点拨】相邻的三个数里前两个数相加等于第三个数。

（3）16　9【点拨】9 × 9，8 × 8，7 × 7，6 × 6，5 × 5，4 × 4，3 × 3。

7. 4　5　3　7　6　7

二、1. √

2. √

3. ×

4. ×

5. ×

三、1. A　【点拨】糖一样多，杯子里的水越少越甜。

2. B　【点拨】最后剩下的3人也需要一辆车才行。

3. B　4. A

四、1. 35　24　3　20　9　6　4　27

2. 9　9　9　9　7　7　7　6　6　6　6　6　6　8　8　8　8　8　8　8　8

五、1.



（画法不唯一）

2. 5



3.

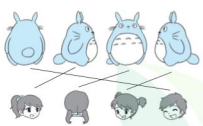

六、1.（1）32 ÷ 4 = 8（天）

（2）4 × 2 = 8（页）

32 ÷ 8 = 4（天）

2. 灰兔：16 ÷ 2 = 8（只）

一共：8 + 16 = 24（只）

【点拨】注意问题是问养了多少只兔子，包括白兔和灰兔。

3. 3 × 8 = 24（条）

24条 < 25条，8个 < 10个　够。

【点拨】做8个凳子既要考虑凳子腿够不够，也要考虑凳子面够不够。

4. 6 − 1 = 5（个）

5 × 5 = 25（米）

25米 = 250分米

【点拨】第1棵树到第6棵树之间有5个间距。最后注意单位换算。

附加题： 4 + 1 = 5

鸭：45 ÷ 5 = 9（只）

鸡：9 × 4 = 36（只）

【点拨】将鸭的只数看成1份，鸡和鸭的只数一共是5份。

仿真模拟卷（三）

一、1. 45　9　商

2. 米　米　厘米

3. 六　4 × 6 = 24　6 × 4 = 24

四十　5 × 8 = 40　8 × 5 = 40

4. 20　9　20

5. 6　6　63　8　6　8

6. 6　【点拨】1 + 2 + 3 = 6（个）。

7. 4　71　10

8. 5　5

二、1. √

2. √

3. ×

4. ×

5. √

三、1. C

2. A

3. B

4. B

四、1. 72　3　4　6　96　5　9　9

2. >　>　<　=　<　>

3. 3 × 6 = 18　6 × 3 = 18　18 ÷ 3 = 6　18 ÷ 6 = 3

4.（1）47 + 28 = 75

（2）73 − 56 = 17

（3）3 × 5 = 15

（4）5 × 8 = 40

五、1. 4　6　2

2.（1）○○○○　○○○○　○○○○

（2）△△

六、1. 8 × 6 = 48（元）

48元 < 50元　够。

2.（1）12 + 4 = 16（元）

（2）12 ÷ 4 = 3（本）

3.（1）48 ÷ 8 = 6

（2）12 + 8 + 48 = 68（元）

100 − 68 = 32（元）

（3）6 × 9 = 54（元）

（4）略

附加题： 1 + 7 = 8　9 − 3 = 6

4 × 5 = 20　【点拨】答案不唯一。

关注微信公众号“教辅资料站”获取更多学习资料

好卷

小卷领先

XIAO JUAN LING XIAN



- **周测**培优卷（9套）
- **专项**提升卷（5套）
- **题型**突破卷（5套）

2 数学 年级（上）（XS版）

关注微信公众号“教辅资料站”获取更多学习资料

目录



周测培优卷

1 1，2，3 的乘法口诀 …… 01
2 4，5 的乘法口诀 …… 03
3 角的初步认识 …… 05
4 6，7，8，9 的乘法口诀 …… 07
5 观察物体 …… 09
6 测量长度 …… 11
7 除法的初步认识 …… 13
8 用乘法口诀求商 …… 15
9 倍的认识和解决问题 …… 17

专项提升卷

1 乘法的初步认识 …… 19
2 6，7，8，9 的乘法口诀 …… 21
3 角的认识和测量长度 …… 23
4 表内除法 …… 25
5 倍的认识和解决问题 …… 27

题型突破卷

1 填空题 …… 29
2 计算题（一） …… 31
3 计算题（二） …… 33
4 图形题 …… 35
5 应用题 …… 37

参考答案及点拨 …… 39

微信公众号
教辅资料站

关注微信公众号“教辅资料站”获取更多学习资料

周测培优卷 1
1，2，3的乘法口诀

班级_____ 姓名_____ 得分_____ 时间：40分钟 满分：60分

一、填空。(每空 1 分，共 17 分)

1. 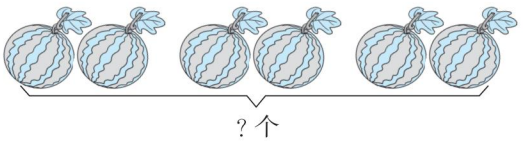

加法算式：_____

乘法算式：_____或_____

应用的乘法口诀：_____

2. 3 +3 +3 +3 =(　　)×(　　)

2 +2 +2 +2 +2 +2 =(　　)　×(　　)

3. 在◯里填上“ >”“ <”或“ =”。

5 ×2 ◯ 5 +2　　4 ×3 ◯ 3 ×4　　6 −3 ◯ 6 ×3

13 +2 ◯ 5 ×3　　3 +8 ◯ 3 ×8　　2 ×6 ◯ 6 +2

4. (　　)里最大能填几？

11 >2 ×(　　)　　3 ×(　　) <29　　3 +(　　) <12

二、选择。(每题 2 分，共 8 分)

1. 在 2 ×5 =10 中，10 叫作(　　)。

A. 因数　　B. 积　　C. 和

2. 2 个 8 相加，列式为(　　)。

A. 2 +8　　B. 2 ×8　　C. 2 +2

3. 两个因数都是 3，积是(　　)。

A. 9　　B. 6　　C. 3

4. 七个小矮人吃饭时，一共要准备(　　)根筷子。

A. 9　　B. 7　　C. 14

微信公众号 教辅资料站

关注微信公众号“教辅资料站”获取更多学习资料

三、连线。(8 分)

$3\times4-2$	$2\times5+3$	$6\times3-2$	$1\times8+3$
16	11	13	10

四、口算。(6 分)

$2\times8=$	$9\times3=$	$5\times3-4=$
$1\times1=$	$5\times2=$	$6\times3+2=$

五、看图列式。(第 1 题 3 分，第 2 题5 分，共 8 分)

1. 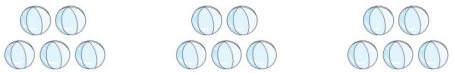

加法算式：_____　　乘法算式：_____

2. 

□○□○□=□(颗) 或 □○□○□=□(颗)

六、解决问题。(共 13 分)

1. 3 天看多少页？(3 分)



2. 购物。



3元/包　　5元/包　　8元/盒

(1) 买 3 盒巧克力和 1 包饼干需要多少钱？(5 分)

(2) 请你提出数学问题并解决。(5 分)

荣德基好卷
微信公众号
教辅资料站

关注微信公众号“教辅资料站”获取更多学习资料

4，5的乘法口诀

班级_____ 姓名_____ 得分_____ 时间：40分钟 满分：60分

一、填空。(第4题8分，其余每空1分，共18分)

1. 4个5相加是(　　)，再加上1个5是(　　)。

2. 在◯里填上“+”“-”或“×”。

5 ◯ 4 = 9　　5 ◯ 5 = 25　　4 ◯ 3 = 1　　8 ◯ 5 = 40

3. 在◯里填上“>”“<”或“=”。

5×6 ◯ 6×5　　18+2 ◯ 5×4　　5×4 ◯ 5+4　　4×8 ◯ 26+5

4. (1)

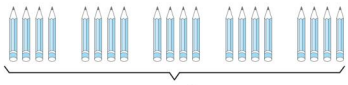

? 支

□◯□ = □ (支)　或　□◯□ = □ (支)

(2)



? 个桃

□◯□◯□ = □ (个) 或 □◯□◯□ = □ (个)

二、选择。(每题2分，共6分)

1. 计算5×7=35时，用到的乘法口诀是(　　)。

A. 5乘7等于35　　B. 五七三十五　　C. 五七得三十五

2. 在6×5=30中，5称为(　　)。

A. 加数　　B. 积　　C. 因数

3. 1只青蛙4条腿，5只青蛙(　　)条腿。

A. 20　　B. 9　　C. 10

三、按要求完成下列各题。(第1题6分，第2题3分，第3题10分，共19分)

1. 直接写得数。

9×5 =　　8×4 =　　5×7+4 =

4×9 =　　4×4 =　　6×5−2 =

关注微信公众号“教辅资料站”获取更多学习资料

2. 连一连。

因数为 5 和 4　　4 与 5 的和　　4 个 5 的和

4×5　　$4+5$

3. 把下面的算式按得数从小到大的顺序排一排。

6×4　4×8　5×7　5×4　4×9

(　　)<(　　)<(　　)<(　　)<(　　)

四、解决问题。(第 1 题 4 分，第 2 题 5 分，第 3 题 8 分，共 17 分)

1. 一共有多少个福娃?



2. 一共有多少本书?



3. 华华带 30 元去买文具，如果只买一种文具，买哪一种文具刚好用完?



微信公众号
教辅资料站

关注微信公众号“教辅资料站”获取更多学习资料

专项提升卷 1 乘法的初步认识

班级_____ 姓名_____ 时间：40分钟

提升点 1：乘法与加法的联系与区别

1. 5 +5 +5 +5 表示(　　)个(　　)相加，写成乘法算式为（　　）或(　　)。

2. 2 个 5 相乘是多少？列算式为（　　）。

3. 4 与 3 相乘，积是多少？列算式为（　　）。

4. 已知一个因数是 3，另一个因数是 7，积是多少？列算式为（　　）。

5. 4 个 7 相加是多少？列算式为（　　）。

6. 2 ×3 +3 =(　　) ×(　　)

5 ×6 −5 =(　　) ×(　　)

4 +4 +4 +8 =(　　) ×(　　)

6 +6 +6 +6 +6 =(　　) ×(　　)

提升点 2：乘法计算

7. 填空。

(　　) ×5 =15　　2 ×(　　) =8　　5 ×6 =(　　)

4 ×(　　) =28　　3 ×9 =(　　)　　(　　) ×8 =40

8. 在◯里填运算符号。

4 ◯4 =8　　6 ◯3 =18　　5 ◯5 =25

15 ◯5 =10　　7 ◯4 =28　　3 ◯8 =24

9. (　　)里最大能填几？

4 ×(　　) <31　　12 >(　　) ×2

(　　) ×5 <36　　3 ×(　　) <29

4 ×(　　) <15　　(　　) ×6 <53

关注微信公众号“教辅资料站”获取更多学习资料

提升点 3：用乘法和乘加、乘减来解决问题

10. （1）4 只小鸟前面飞，4 只小鸟后面追，4 只小鸟左面叫，4 只小鸟右面随。一共有多少只小鸟飞？

□○□=□（只）

（2） 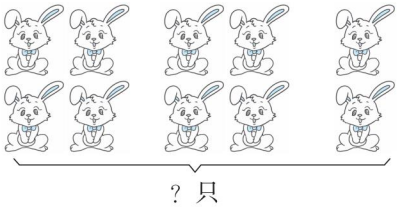

□×□+□=□（只）　或　□×□−□=□（只）

11. 一共有多少个桃？

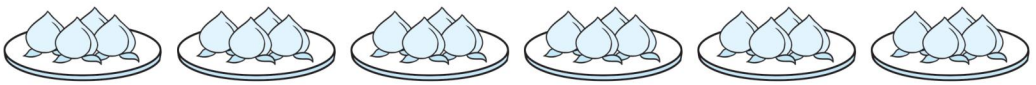

12. 一共有多少个花瓶？



荣德基好卷

关注微信公众号“教辅资料站”获取更多学习资料

题型突破卷 1 填空题

班级_____ 姓名_____ 时间：40分钟

专项 1：乘法的初步认识

1. 求几个(　　)加数的和用(　　)法计算较为简便。

2. 6 + 6 + 6 + 6 + 6 = (　　) × (　　)

3. 8 + 8 + 8 + 8 + 8 + 8 + 7 = (　　) × (　　) + (　　) = (　　) × (　　) − (　　)

4. 按规律填数。



5. 把口诀补充完整。

四(　　)三十二　　二(　　)一十　　五(　　)四十五

(　　)五十五　　(　　)九八十一　　(　　)八四十

三(　　)二十七　　八(　　)六十四　　(　　)四十六

6. 6 个 9 相加的和是(　　)，用到的口诀是（　　）。

7. 3 × 4 = (　　)，表示 4 个(　　)相加，用到的口诀是（　　）。

8. 两个因数都是 6，积是(　　)。

9. 12 = (　　) × (　　) = (　　) × (　　) = (　　) × (　　) = (　　) × (　　)

专项 2：角的认识及分类

10. 一个角由(　　)个顶点和(　　)条边组成。

11. 标出下列角的各部分的名称。

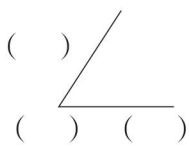



12. 角的大小与两条边的长短(　　)，只和两条边张开的(　　)有关。

13. 判断一个角是什么角，可以用三角板上的(　　)来比一比。

比直角小的是(　　)角，比直角大的是(　　)角。

14. 一副三角板有(　　)个直角，(　　)个锐角，(　　)个钝角。

关注微信公众号“教辅资料站”获取更多学习资料

专项3：测量长度

15. 量长度常用的工具是(　　)。

16. 测量一个物体的长度，一般把尺子的(　　)刻度对准物体的左端。

一把尺子的刻度从0到9是(　　)厘米，从2到7是(　　)厘米。

17. 量较短的物体，可以用(　　)作单位。量较长物体的长或测量距离，通常用(　　)作单位。

18. 厘米可以用字母(　　)表示，1厘米可以写作(　　)，读作(　　)。

米可以用字母(　　)表示，1米可以写作(　　)，读作(　　)。

1m = (　　)dm = (　　)cm。

19. 在(　　)里填上合适的长度单位。

黄瓜长约20(　　)。　床长约2(　　)。　红红高130(　　)。

新华字典厚约3(　　)。公交卡长约1(　　)。大树高约15(　　)。

专项4：除法的认识

20. 写出下面各部分的名称。

21　÷　3　=　7

⋮　⋮　⋮

(　　)　(　　)　(　　)

这个算式读作（　　），用到的口诀是（　　）。

21. 把24连续减去3，要减(　　)次才能减完。

22. 口算49÷7和7×7，用到的口诀都是（　　）。

专项5：乘法口诀的应用

23. 56÷(　　)=7　　36÷4=(　　)　　28÷(　　)=7

24. 根据下列乘法口诀写算式。

六九五十四

乘法算式：_____　　除法算式：_____

_____　　_____

五七三十五

乘法算式：_____　　除法算式：_____

_____　　_____

专项6：倍的认识

25. 16里面有(　　)个2，16是2的(　　)倍。

26. 3的9倍是(　　)，27是3的(　　)倍。

关注微信公众号“教辅资料站”获取更多学习资料

荣德基 好卷

参考答案及点拨

2年级 数学 上 (XS版) (小卷)

周测培优卷 1

1，2，3 的乘法口诀

一、1. 2 + 2 + 2 = 6（个）

2 × 3 = 6（个）　3 × 2 = 6（个）

二三得六

2. 3 × 4（或 4 × 3）

2 × 6（或 6 × 2）

3. > = < = < >

4. 5 9 8

二、1. B 2. B 3. A 4. C

三、

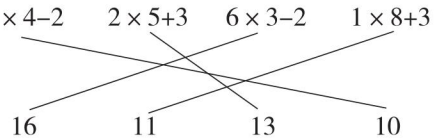

四、16 27 11 1 10 20

五、(1) 5 + 5 + 5 = 15（个）

5 × 3 = 15（个）/3 × 5 = 15（个）

(2) 3 × 7 + 2 = 23　3 × 8 − 1 = 23

六、1. 8 × 3 = 24（页）

【点拨】考查乘法的含义，3 个 8 相加即为 8 × 3 = 24。

2. (1) 8 × 3 + 3 = 27（元）

【点拨】考查乘加的实际应用。

(2) 略

周测培优卷 2

4，5 的乘法口诀

一、1. 20 25

2. + × − ×

3. = = > >

4. (1) 4 × 5 = 20　5 × 4 = 20

(2) 8 × 4 + 5 = 37　8 × 5 − 3 = 37

二、1. B 2. C 3. A

三、1. 45 32 39 36 16 28

2. 因数为5和4　4与5的和　4个5的和

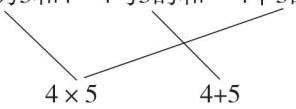

3. 5 × 4　6 × 4　4 × 8　5 × 7　4 × 9

四、1. 5 × 5 = 25（个）

【点拨】几个几相加用乘法计算更简便。

2. 7 × 4 + 3 = 31（本）

3. 5 × 6 = 30（元）

可以买 5 支钢笔或 6 支自动铅笔。

周测培优卷 3

角的初步认识

一、(√)　(√)　(　)　(　)

(　)　(√)

二、1. 边　顶点　边　1　2

2. 直角　钝角　直角　锐角

关注微信公众号“教辅资料站”获取更多学习资料

3. 4　2　1

4. （1）>　（2）=

三、1. C　2. B　3. C

四、1. ×　2. ×　3. √　4. ×　5. ×

6. ×

五、锐角：②③⑤

直角：①⑦

钝角：④⑥

六、5　16　8

七、略

周测培优卷4

6，7，8，9的乘法口诀

一、1. 36　4　9　36（或36　9　4　36）

2. 7　35　7×5=35（天）

或5×7=35（天）

3. 2×7=14　7×2=14

4. 七　六　八十一　七　八　四十二

5. 5　8　7　8　7　7

6. =　<　<　<　=　=

7. 8　9

二、1. ×　2. ×　3. √　4. ×

三、45　35　24　48　30　41

四、1. 9×7=63（或7×9=63）

2. 3　7　6　27　4　7　1　27

五、 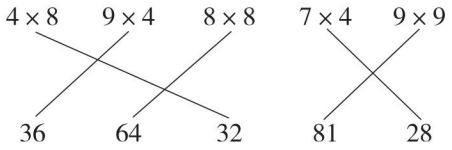

六、1. 9×7=63（个）

2. 略

周测培优卷5

观察物体

一、1.  （圆）

2. 后面　侧面　前面

3. A　C　D

二、1. 在第1个括号里画“√”。

2. 在第2个括号里画“√”。

3. 在第3个括号里画“√”。

三、1. A　2. A　3. C

四、略

周测培优卷6

测量长度

一、1. 厘米　米

2. 70　8　5　100　300　40

3. cm　m　cm

4. >　<　>　<　=　<

5. 40 cm　5 dm　3 m　4 m　50 dm

6. 8　5　2

二、1. ×　2. ×　3. ×　4. ×　5. ×

关注微信公众号“教辅资料站”获取更多学习资料

三、1. B　2. A　3. B

四、1. 45 + 40 = 85（厘米）

2. 100 − 25 = 75（米）

五、1. 5 × 8 = 40（分米）

40 分米 = 4 米

【点拨】问题问的是高多少米，注意单位。

2. 1 m = 100 cm

100 − 80 = 20（cm）

3. 4 × 5 = 20（dm）

20 dm = 2 m　2 + 2 = 4（m）

【点拨】小树的高度等于原来的 2 m 加上 5 年生长的高度。

周测培优卷 7

除法的初步认识

一、1. 5　1

2. 6　24　4　6　24　6　4

3. 12 除以 3 等于 4　被除数　除数　商

4. （1）8 ÷ 4 = 2　（2）8 ÷ 2 = 4　（3）24 ÷ 4 = 6

5. 十六　十八　四十八　二十八　十五　五十六　二十四　二十四

6. >　=　=　<　<　=

7. （1）3 × 8 = 24　8 × 3 = 24　（2）36 ÷ 4 = 9　36 ÷ 9 = 4

二、1. 28 ÷ 7 = 4

2. 18 ÷ 6 = 3

3. 20 ÷ 5 = 4

三、4 × 5 = 20　5 × 4 = 20　20 ÷ 5 = 4　20 ÷ 4 = 5　3 × 4 = 12　4 × 3 = 12　12 ÷ 4 = 3　12 ÷ 3 = 4

四、1. 40 ÷ 5 = 8（人）

2. 18 ÷ 6 = 3（个）

3. 6 × 6 = 36（棵）

【点拨】每行和每列的树同样多，棵数在 30 和 40 之间，只能是 6 × 6 = 36（棵）。

周测培优卷 8

用乘法口诀求商

一、1. 6　4　四六二十四　8　6　六八四十八

2. 3　4　6　4　5

3. >　=　<　>　=　>　=　>

4. 商是 3：12 ÷ 4　6 ÷ 2　18 ÷ 6　9 ÷ 3

商是 5：15 ÷ 3　10 ÷ 2　20 ÷ 4

商是 4：16 ÷ 4　20 ÷ 5　24 ÷ 6

5. 1　5　3　6　7　9　7　2　1　6

二、1. 5　4　30　3　3　36　5　9

关注微信公众号“教辅资料站”获取更多学习资料

2. （1）$9\times4=36$

（2）$25\div5=5$

（3）$18\div3=6$

（4）$24\div4=6$

三、1. （1）$9\times4=36$（个）

（2）$36\div4=9$（个）

（3）$36\div6=6$（个）

2. $40\div8=5$（个）

3. $42\div6=7$（只）

4. 略

周测培优卷 9

倍的认识和解决问题

一、1. 42　2. 16　4　3. 6　7

4. 2　$4\div2=2$　3　$12\div4=3$

5. 6　6. 2　3　2　3

7. 9　【点拨】$27\div3=9$（套）。

二、

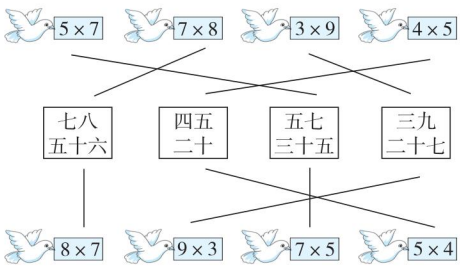

三、1. （答案不唯一）小亮看了多少页

$7\times5=35$（页）

2. （答案不唯一）△有 3 个　△

$3\times7=21$（个）

3. （答案不唯一）蜜蜂有多少只

$12\div2=6$（只）

【点拨】求谁的几倍是多少用乘法计算，求谁是谁的几倍用除法计算。

四、1. （1）$24\div6=4$

（2）$18\div9=2$

（3）略

2. $4\times5+2=22$（人）

【点拨】最后一艘船上只有 2 人。

3. $9\times5=45$（颗）　45 颗 < 50 颗

50 颗巧克力用 5 个盒子不能全部装下。

4. $5+1=6$（岁）

$35+1=36$（岁）

$36\div6=6$

【点拨】今年妈妈和我都长了一岁。

期末总复习

专项提升卷 1　乘法的初步认识

1. 4　5　4×5　5×4

2. $5\times5=25$

3. $4\times3=12$（或 $3\times4=12$）

4. $3\times7=21$（或 $7\times3=21$）

5. $4\times7=28$（或 $7\times4=28$）

6. 3　3　5　5　4　5　6　5

关注微信公众号“教辅资料站”获取更多学习资料

7. 3　4　30　7　27　5

8. +　×　×　−　×　×

9. 7　5　7　9　3　8

10. （1）4×4=16

（2）2×4+2=10　3×4−2=10

11. 4×6=24（个）［或6×4=24（个）］

【点拨】求几个相同加数的和用乘法计算更为简便。

12. 3×3+2=11（个）

［或3×4−1=11（个）］

专项提升卷2　6，7，8，9的乘法口诀

1. 48　6×8=48　8×6=48

2. 64

3. 7

4. （1）24　42　48

（2）8　4　6

5. 43　38　41　40　58　68　72　33　28

6. >　>　<　<　=　>

7. 4　3　6　8　7　7　7　8　5

8. （1）5×6=30（颗）

（2）5×7=35（个）

9. （1）8×4=32（人）

（2）9×2+8=26（人）

10. 7×4+2=30（天）

11. 9×6=54（块）

专项提升卷3　角的认识和测量长度

1.

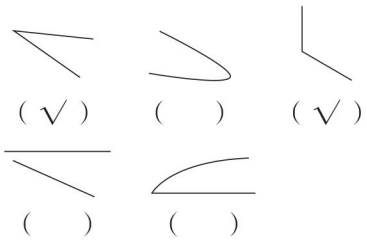

（√）　（　）　（√）

（　）　（　）

2. 锐　锐　钝

3. <　<　>　>

4. 4　4　6　3　6　10

5. 3或4或5

6. 0　dm　10

7. 1厘米　5　12

8. （√）　（　）　（√）

9. 5　7　20　2

10. <　=　<　<　>　<　<　=

11. 40厘米<80厘米<9分米<1米

12. 6×2=12（m）

【点拨】用了一半后还剩下一半长6 m，说明原来长为两个6 m。

13. 35+35−5=65（厘米）

【点拨】焊接后有5厘米的重叠部分，多加了需要减掉。

专项提升卷4　表内除法

1. ○○　○○　△△△△　☆☆☆　☆☆☆

○○　○○　△△△△　☆☆

（　）　（√）　（　）

关注微信公众号“教辅资料站”获取更多学习资料

2. ×

3. （1）5　15 ÷ 3 = 5（组）

（2）3　15 ÷ 5 = 3（组）

（3）5　15 ÷ 3 = 5（人）

（4）3　15 ÷ 5 = 3（人）

4. 12　4　12 ÷ 3 = 4（个）　三四十二

5. （1）18 除以 9 等于 2

（2）36 除以 4 等于 9

6. 24　3　8

7. ÷　×　÷　×　8. 4　9. 5

10. 8　7　6　7　9　7

11. 27 ÷ 3　24 ÷ 3　56 ÷ 8　28 ÷ 7　18 ÷ 6

12. 18 ÷ 6 = 3（个）

13. （1）24 ÷ 4 = 6（个）

（2）24 ÷ 6 = 4（个）

14. 4 × 9 = 36　36 ÷ 6 = 6

专项提升卷 5　倍的认识和解决问题

1. 3

2. 18

3. 14　5

4. 6

5. 5　4　8

6. 27　9　27　9

7. （1）△△△△

（2）□□□□□□

8. 35 ÷ 7 = 5（支）

9. 18 ÷ 3 = 6（根）

10. 27 ÷ 3 = 9

11. （1）20 ÷ 5 = 4

（2）5 × 5 = 25（元）

30 > 25　够。

12. 18 ÷ 2 = 9（棵）　18 + 9 = 27（棵）

13. （1）35 ÷ 5 = 7

（2）35 + 1 = 36（岁）

5 + 1 = 6（岁）

36 ÷ 6 = 6

（3）35 − 5 = 30（岁）

【点拨】年龄差不变。

题型突破卷 1　填空题

1. 相同　乘

2. 6　5（或 5　6）

3. 8　6　7　8　7　1

4. 20　30　35　40　45

5. 八　五　九　三　九　五　九　八　四

6. 54　六九五十四

7. 12　3　三四十二

8. 36

9. 3　4　4　3　2　6　6　2

10. 1　2

11. 略

关注微信公众号“教辅资料站”获取更多学习资料

12. 无关　大小

13. 直角　锐　钝

14. 2　4　0

15. 米尺

16. 0　9　5

17. 厘米　米

18. cm　1 cm　1 厘米　m　1 m　1 米

10　100

19. cm　m　cm　cm　dm　m

20. 被除数　除数　商　21 除以 3 等于 7

三七二十一

21. 8

22. 七七四十九

23. 8　9　4

24. $6\times9=54$　$9\times6=54$

$54\div6=9$　$54\div9=6$

$5\times7=35$　$7\times5=35$

$35\div7=5$　$35\div5=7$

25. 8　8

26. 27　9

题型突破卷 2　计算题（一）

1. 9　10　36　72　20　48　21　40　45

16　16　27　7　25　42　64　18　12

4　24　81　6　56　49　35　9　36

15　54　2　36　72　1　5　42　18

24　24　12　15　28　32

2. 1　9　7　4　8　6　5　8　4　8　9　9

8　3　2　5　2　7　2　7　4　3　3　3

2　1　5　8　6　9　1　9　9　5　9　7

8　7　4　4　2　1　5　4　3　7　6　5

4　5　7　8　3　2　2　1　9　3　3　5

3. 5　19　51　19　26　49　35　42　29

73　13　46　58　50　19　33　57　38

43　11　17　17　12　33　17　15

题型突破卷 3　计算题（二）

1. 100　0　66　6　3　0　61

20　49

2. 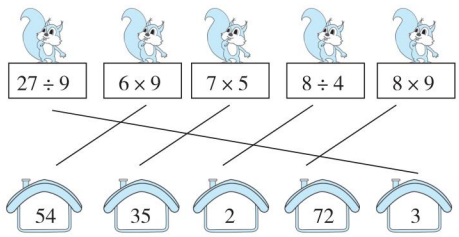

3. 6　8　8　4　2　8　7　5　6

4. =　<　>　=　>　<　<　<　>

>　=　<

5. （1）$5\times9>8\times4>4\times7>8\times3>2\times6>9\times1$

（2）$7\times7>6\times6>5\times7>9\times2>2\times2>1\times3$

6. $5+5+5+5+5+5+5=35$（个）

$5\times7=35$（个）

关注微信公众号“教辅资料站”获取更多学习资料

7. 24　8

24 ÷ 3 = 8（朵）

8. 30　6　30 ÷ 5 = 6

题型突破卷 4　图形题

1. 略

2. ③⑤⑥　②⑧　①④⑦

3. （1）7　2

（2）9　6

（3）8　6

（4）8　4

4. 略

5. ① 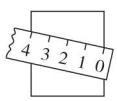

（ × ）　② 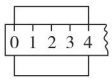

（ √ ）　③ 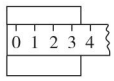

（ × ）

6. 5　3

7. 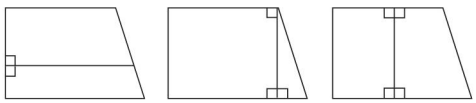

（第一、三个图画法不唯一）

8. 圆　正方

9. 

题型突破卷 5　应用题

1. 9 × 4 = 36（盆）

2. （1）7 + 8 = 15（页）

（2）9 × 6 = 54（页）

3. 8 × 9 = 72（人）

72 + 2 = 74（人）

4. 9 × 4 = 36（米）

【点拨】一半的一半就是分成了 4 份。

5. 4 × 2 = 8（米）

10 − 8 = 2（米）

6. 30 ÷ 5 = 6（串）

7. 21 ÷ 7 = 3

8. 9 × 4 = 36（人）

36 + 4 = 40（人）

9. （1）6 × 3 = 18（元）

18 ÷ 3 = 6（块）

（2）9 × 2 = 18（元）

20 − 18 = 2（元）

（3）7 × 7 = 49（元）

49 元 < 50 元　够。

（4）略

【点拨】答案不唯一，正确即可。

关注微信公众号“教辅资料站”获取更多学习资料

大卷达标　小卷领先







图书在版编目（CIP）数据

好卷．数学2年级．上，XS版／荣德基主编．—合肥：安徽教育出版社，2019（2020.5重印）

ISBN 978-7-5336-8937-7

Ⅰ．①好… Ⅱ．①荣… Ⅲ．①小学数学课一习题集 Ⅳ．①G624

中国版本图书馆CIP数据核字（2019）第056009号

好卷·2年级数学上（XS版）
HAOJUAN·2 NIANJI SHUXUE SHANG（XS BAN）

出 版 人：费世平
质量总监：武常春
责任编辑：倪　瑞
责任校对：牛　帅
装帧设计：典点编事
责任印制：荣德印务

出版发行：时代出版传媒股份有限公司　安徽教育出版社
地　　址：合肥市经开区繁华大道西路398号　邮编：230601
网　　址：http://www.ahep.com.cn
营销电话：(0551) 63683016，63683015
排　　版：阿比亚拉博娜文化传媒有限公司
印　　刷：天津高杰印务有限公司

开　　本：880×1200　1/8
印　　张：6
字　　数：180千字
版　　次：2019年5月第1版　2020年5月第2次印刷
定　　价：30.90元

（如发现印装质量问题，影响阅读，请与本社营销部联系调换）

关注荣德基微信公众号，获取新资讯。
荣德基官方网站：http://www.nadder.com.cn
荣德基天猫旗舰店：http://rongdeji.tmall.com
客服热线：182 1039 5892

荣德基小学阅读

ISBN 978-7-5336-8937-7
9 787533 689377
定价：30.90元

关注微信公众号"教辅资料站"获取更多学习资料