教辅资料站
电子教辅 试卷练习
知识总结 备课资源
扫码关注获取更多学习资料

大卷全程培优 微卷助冲满分

好卷

DAJUANQUANCHENGPEIYOU WEIJUANZHUCHONGMANFEN

大卷全程培优 | 单元培优 测试卷(7套) | 归类培优 测试卷(3套) | 期中(末)培优 测试卷(3套)

微卷助冲满分 | 核心考点 突破卷(7套) | 期末冲刺 拾分卷(4套)



二年级

数学 上 (QD版)

吉林教育出版社

海量资源 “一码”搞定



教师 专属福利

✓让您教学更轻松

1. **PPT版教学课件** “预、授、练、考”全环节，个性可改。
2. **点典教案** PDF版和Word版。
3. **备课资料包** 图文资料、音视频素材、拓展阅读、说课稿，一应俱全。
4. **课文朗读音视频**
5. **听力测试音频**
6. **Word版试题库** 《典中点》《好卷》中好题新题任你用。

✓惊喜活动等您来

7. **荣德基图书免费领** 样书直接到您手。
8. **反馈问题得好礼** 反馈图书质量问题，荣德基图书免费用。
9. **分享资源得好礼** 邀您投递研究成果、优质资源、好题好卷，惊喜回报等您拿。
10. **诚邀加盟** 有机会加盟中国品牌创新发展工程推荐品牌《点拨》《典中点》编委会。

学生·家长 助力服务

1. **重难知识微课** 识字微课、阅读微课、习作微课、口语交际微课、方法微课。
2. **《典中点》“极速提分法”习题微课**
3. **《好卷》附加题精讲微课**
4. **写字微课** 笔顺笔画演示、写字方法指导。
5. **音视频** 课文朗读、词语报听写、推荐阅读。

好卷 = 《大卷》+《微卷》

大卷 全程培优 微卷 助冲满分

不是所有的试卷都叫“好卷”，期末提分才是硬道理！

大卷 同步培优卷

✦单元培优测试卷

第一单元 乘法的初步认识 …… 1
第二单元 表内乘法（一） …… 3
第三单元 角的初步认识、智慧广场 …… 5
第四单元 表内乘法（二） …… 7
期中测试卷 …… 9
第五单元 除法的初步认识 …… 11
第六单元 认识方向 …… 13
第七单元 表内除法、智慧广场 …… 15

✦归类培优测试卷

1. 计算 …… 17
2. 角与方向 …… 19
3. 解决问题 …… 21

✦综合培优测试卷

1. 期末测试卷（一） …… 23
2. 期末测试卷（二） …… 25

微卷 专项拔尖卷

✦核心考点突破卷

可按段或期末用

1. 乘法的初步认识 …… 1
2. 5的乘法口诀、2的乘法口诀 …… 3
3. 3、4的乘法口诀、乘加、乘减 …… 5
4. 角的初步认识、智慧广场 …… 7
5. 6、7的乘法口诀 …… 9
6. 8、9的乘法口诀和倍的认识 …… 11
7. 平均分 …… 13
8. 除法的意义、有关0的除法 …… 15
9. 认识方向 …… 17
10. 用2-9的乘法口诀求商 …… 19
11. 进一步认识倍、连乘、连除和乘除混合运算、智慧广场 …… 21

✦期末冲刺抢分卷

1. 高频考点抢分卷 …… 23
2. 易错题抢分卷 …… 25
3. 常见难题抢分卷 …… 27
4. 新题型抢分卷 …… 29

| **大卷答案**▶见大卷第27~30页 / **微卷答案**▶见大卷第30~32页 |

关注微信公众号“教辅资料站”获取更多学习资料

第一单元 乘法的初步认识

时间：60分钟　满分：100分+10分

题号	一	二	三	四	五	六	七	八	九、附加题	总分
得分										

姓名　学号　班级　学校

请不要在密封线内答题哦！

一、仔细审题，填一填。（每空1分，共18分）

1. 在6×3=18中，3和6叫作（　　），18叫作（　　），“×”叫作（　　）。
2. 4×3读作（　　），表示（　　）个（　　）相加，或（　　）个（　　）相加。
3. 任何数和1相乘都得（　　），0和任何数相乘都得（　　）。
4. 4个5相加写成乘法算式是（　　）。
5.  把从左边数第（　　）个鱼缸里的（　　）条鱼移动到第（　　）个鱼缸里，每个鱼缸里的鱼就一样多了，三个鱼缸里的鱼一共有（　　）条，可以写成乘法算式是（　　）。
6. 找规律填一填。



1+3　　1+3+5　　1+3+5+7　（　　）

2×2　　3×3　　4×4　（　　）

二、判断。（对的打“√”，错的打“×”）（每小题2分，共10分）

1. 3个6相加可以写成3+6。（　　）
2. 2个5相加的和与5个2相加的和相等。（　　）
3. 求几个加数的和可以用乘法计算。（　　）
4. 3个4相加可以写成3×4，也可以写成4×3。（　　）
5. 两个数相乘的结果一定比这两个数相加的结果大。（　　）

三、慎重选择。（把正确答案的序号填在括号里）（每小题2分，共10分）

1. 9+9+9+9表示（　　）。

A. 9个4相加　　B. 4个9相加　　C. 9与4的和

2. 求一共有多少根香蕉，列式错误的是（　　）。



A. 3×4　　B. 4×4　　C. 3+3+3+3

3. 5×2表示（　　）。

A. 5和2的和　　B. 5和2相加　　C. 5个2相加

4. 一共有（　　）粒纽扣。



A. 4×5　　B. 4×4　　C. 4+4+4+4

5. 3+1+4+1+3可以写成乘法算式为（　　）。

A. 3×5　　B. 4×5　　C. 4×3

四、把加法算式改写成乘法算式。（每空1分，共10分）

1. 1+1+1+1+1+1+1=（　　）×（　　）
2. 0+0+0+0=（　　）×（　　）
3. 3+3+3+3+3=（　　）×（　　）
4. 5+5+5+5+5+5=（　　）×（　　）
5. △+△+△=（　　）×（　　）

五、看图列式计算。（22分）

1.



一共有几个盘子？

加法算式：_____

乘法算式：_____

一共有几块西瓜？

加法算式：_____

乘法算式：_____

2.



（　　）个（　　）相加

加法算式：_____

乘法算式：_____

或_____

3.



（　　）个（　　）相加

加法算式：_____

乘法算式：_____

或_____

关注微信公众号“教辅资料站”获取更多学习资料

4.

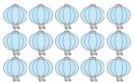

横向看加法算式：_____

竖向看加法算式：_____

乘法算式：_____

或_____

5.



横向看加法算式：_____

竖向看加法算式：_____

乘法算式：_____

或_____

六、我想当邮递员。（连一连）（8分）

2+2+2	3乘2	4+4+4+4+4	3×5



4个5相加	5×4	3+3	5×3+5

七、画一画。（8分）

1.



2.

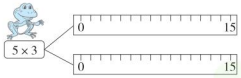

八、解决问题。（共14分）

1. 植树节到了，老师组织学生栽树，每2米栽一棵树，一共栽了多少米？（忽略树的宽度）（2分）

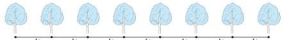

_____（米）

_____（米）

2. 有趣的课外活动。



（1）参加拔河比赛的一共有多少人？（3分）

_____+_____=_____（人）　　_____×_____=_____（人）

（2）一共有多少人在打乒乓球？（3分）

_____+_____+_____+_____=_____（人）　　_____×_____=_____（人）

（3）请你再提出一个数学问题，并用加法算式和乘法算式解答。（3分）

3.（3分）



九、附加题：天才的你，试一试（10分）

同学们排成方形队伍参加入场仪式，从前、后、左、右数，京京都是第3个。这个方形队伍一共有多少人？

自己说说
老师点评
家长点评
微信公众号
教辅资料站
关注微信公众号“教辅资料站”获取更多学习资料

第二单元 表内乘法（一）

时间：60分钟　满分：100分+10分

题号	一	二	三	四	五	六	七	八、附加题	总分
得分									

一、仔细审题，填一填。（每空1分，共21分）

1. 根据口诀“三五十五”可以写出的乘法算式是（　　）和（　　）。
2. 4×3=（　　），读作（　　），用口诀（　　）来计算。
3. 两个因数都是5，求它们的积是多少，列式是（　　）。
4. 在○里填上“>”“<”或“=”。

3×5 ○ 4×4　　2×3 ○ 4×1　　3×4+12 ○ 1×3+21

4×5 ○ 2×2　　2×4 ○ 2×5　　1×5+6 ○ 5+1×6

5. 先观察每组数，找出规律，再按规律填数。



6. （　　）里最大能填几？

（　　）×4<13　　（　　）×3<10　　4×（　　）<17

（　　）×3<14　　（　　）×5<11　　（　　）×2<9

7. 新一社区的志愿者们在社区服务中心，分成2队向社区居民宣传文化礼仪，每队有4名志愿者。要求一共有多少名志愿者，列乘法算式是（　　）。

二、判断。（对的打“√”，错的打“×”）（每小题2分，共10分）

1. 5×4=20，读作四五二十。（　　）
2. 计算2和4相乘与2个4相乘，用的是同一句口诀。（　　）
3. 5+5=5×5（　　）
4. 3×2+3=3×3（　　）
5. 一根木条被分成同样长的3段，每段长2米，这根木条长6米。（　　）

三、慎重选择。（把正确答案的序号填在括号里）（每小题2分，共10分）

1. 下面可以改写成4×3的是（　　）。

A. 4×2+4　　B. 3+3+3　　C. 4+4+4+4

2. 用2×5可以解决下面（　　）选项中的问题。



A　　B　　C

3. （　　）图能用算式3×5+3表示。



A　　B　　C

4. 柳柳买了3支圆珠笔。要解决“柳柳买圆珠笔花了多少钱?”这个问题，需要补充的条件是（　　）。

A. 每支彩笔1元

B. 每支圆珠笔2元

C. 每支圆珠笔比每支彩笔贵1元

5. 右图中，未被遮住的○有（　　）个。



A. 4×4

B. 3×5

C. 4×5

四、计算快乐营。（共18分）

1. 口算。（8分）

0×3=　　2×3=　　3×4=　　4×2−5=

3×3=　　5×2=　　1×1=　　2×1+3=

2. 在○里填上“+”“−”或“×”。（6分）

4 ○ 4=8　　3 ○ 1=2　　5 ○ 3=15

2 ○ 1=1　　3 ○ 1=3　　6 ○ 3=3

3. 连一连。（4分）

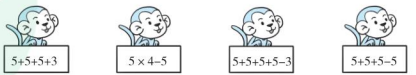



请不要在密封线内答题哦！
姓名　学号　班级　学校
微信搜索号
教辅资料站
关注微信公众号“教辅资料站”获取更多学习资料

五、看图列式计算。(每小题 3 分，共 12 分)

1. 

□ ○ □ = □

口诀：_____

2. 

□ ○ □ = □

口诀：_____

3. 

□ ○ □ ○ □ = □

□ ○ □ ○ □ = □

4. 

□ ○ □ ○ □ = □

□ ○ □ ○ □ = □

六、算一算，涂一涂。(6 分)

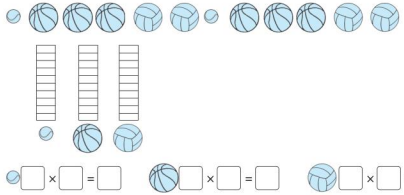

□ × □ = □　　□ × □ = □　　□ × □ = □

七、解决问题。(共 23 分)

1. 一共有多少名小朋友在跳绳？(4 分)



□ ○ □ = □ (名)

2. (4 分)

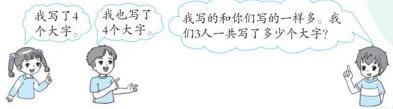

□ ○ □ = □ (个)

3. 

(1) 一共有几只天鹅？(2 分)

□ ○ □ = □ (只)

(2) 一共有几只猴子？(2 分)

□ ○ □ = □ (只)

(3) 请你再提出一个数学问题并解答。(2 分)

4. 探究古诗里面的数学。

画

唐·王维

远看山有色，近听水无声。

春去花还在，人来鸟不惊。

(1) 不计标点符号，不算题目，这首诗一共有多少个字？(2 分)

□ ○ □ = □ (个)

(2) 不计标点符号，算题目，这首诗一共有多少个字？(2 分)

□ ○ □ ○ □ = □ (个)

5. 乐乐和聪聪玩投飞镖游戏，每人投 4 次，成绩如下图，他们各得了多少分？(5 分)

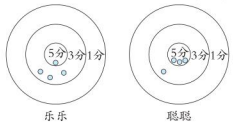

八、附加题：天才的你，试一试。(10 分)

把一根绳子对折再对折，每段是 5 米，这根绳子长多少米？

自己说说
老师点评
家长点评
关注微信公众号“教辅资料站”获取更多学习资料

1.计算

题号	一	二	三	四	五	六	七、附加题	总分
得分								

一、仔细审题，填一填。（每空1分，共30分）

1. 40÷5=（　　），口诀是（　　），40叫作（　　），5叫作（　　）。
2. 一双袜子有2只，（　　）双袜子有18只。14只袜子是（　　）双。
3. （　　）七二十一　　（　　）九五十四　　三（　　）得九
   五（　　）三十五　　四（　　）二十　　三（　　）十二
4. 20里面有（　　）个4，（　　）里面有5个3，7个2相加的结果是（　　）。
5. 有19个核桃，至少再添加（　　）个，就可以平均分给6个小朋友。
6. 一个因数是2，另一个因数是4，积是（　　）。
7. 7的4倍是（　　），（　　）是6的5倍，56是8的（　　）倍。
8. 在○里填上“+”“-”“×”或“÷”。

   27○3=9　　2○2=4　　3○8=24　　6○8=48

   64○8=8　　81○9=90　　25○5=20　　5○6=30
9. 把36个苹果平均分给小明和他的3个好朋友，每人可分得（　　）个苹果。
10. 28元钱能买4本相同的笔记本，则买3本同样的笔记本需要（　　）元。

二、判断。（对的打“√”，错的打“×”）（每小题1分，共5分）

1. 有12枝花，每4枝扎成一束，一共可以扎成几束？用乘法列式。（　　）
2. 4×5和5×4的结果相同，但计算时用的口诀不同。（　　）
3. 27元钱可以买9支相同的笔，每支笔多少钱？不可以用除法解决。（　　）
4. 求15里面有几个3，列式为15÷5=3。（　　）
5. □×6<45，□里最大填7。（　　）

三、慎重选择。（把正确答案的序号填在括号里）（每小题2分，共10分）

1. 求48里面有几个8，列式正确的是（　　）。
   A. 48÷8=6　　B. 6×8=48　　C. 48÷6=8
2. 6个男生和6个女生参加短跑比赛，每组3个人，可以分成（　　）组。
   A. 2　　B. 3　　C. 4
3. 小红和她的四个同学一共买了20本书，平均每人买了（　　）本书。
   A. 4　　B. 5　　C. 10
4. 下列算式可以改写成乘法算式的是（　　）。
   A. 1+3+4+5　　B. 2+2+2+5　　C. 2+2+2+2
5. 一把尺子2元钱，一本笔记本4元钱，小明带的钱正好够买一本笔记本和6把尺子，小明带了（　　）元钱。
   A. 6　　B. 16　　C. 20

四、按要求完成下面各题。（共36分）

1. 直接写得数。（6分）

6×9=	6×4=	0÷4=	7×3=
2×9=	9×8=	0×8=	5÷1=
9×8-7=	45÷5÷3=	24÷8×5=	2×8÷4=

2. 用竖式计算。（8分）

   4×8=　　25÷5=　　27÷9=　　8×6=

3. 在○里填上“>”“<”或“=”。（9分）

   2-2○2÷2　　15÷3○2×7　　2×4○24÷3

   8×7○7×6　　6×9○3×8　　6×6○4×3

   30÷5○5×1　　40÷5○27÷3　　12÷2○12÷3

4. 根据第一个图形的规律，在○里填上合适的数。（7分）

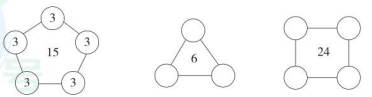

姓名　学号　班级　学校
请不要在密封线内答题哦！
微信搜索
教辅资料站
关注微信公众号“教辅资料站”获取更多学习资料

5. 看图列式计算。(6 分)

(1)



□×□=□　□×□=□

□÷□=□　□÷□=□

(2)



□ ○ □ ○ □ = □

五、算一算，填一填。(4 分)

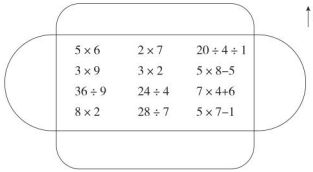

(1) 得数不大于 10 的写在东面。　(2) 得数在 11～20 之间的写在西面。

(3) 得数在 21～30 之间的写在北面。　(4) 得数在 31～40 之间的写在南面。

六、解决问题。(共 15 分)

1. (2 分)

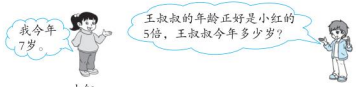

□ ○ □ = □ (岁)

2. 4 米彩带可以做 12 个中国结，6 米彩带可以做多少个这样的中国结？(3 分)

□ ○ □ ○ □ = □ (个)

3.



(1) 松鼠的只数是兔子的几倍？(2 分)

□ ○ □ = □

(2) 青蛙的只数是小狗的 3 倍，青蛙有多少只？(2 分)

□ ○ □ = □ (只)

(3) 你还能提出其他数学问题并解答吗？(2 分)

4. 小西是一名图书管理员，下面是他记录的班级图书角的图书信息。

信息一：四大名著（少儿读本）6 套（每套 4 本）
信息二：少儿百科全书 5 套（每套 6 本）
信息三：故事书 13 本

(1) 四大名著（少儿读本）一共有多少本？(2 分)

(2) 少儿百科全书和故事书一共有多少本？(2 分)

七、附加题：天才的你，试一试。(10 分)

学校举行开学典礼，要搬 10 张桌子。一名老师搬 1 张，两名同学抬 1 张。现在有一名老师，如果想一次搬完，还需要几名同学？

自己说说
老师点评
家长点评
微信搜索公众号
教辅资料站
关注微信公众号“教辅资料站”获取更多学习资料

荣德基 好卷 二年级 数学 上（QD版）

综合培优测试卷

1.期末测试卷(一)

时间：60分钟　满分：100分+10分

题号	一	二	三	四	五	六	七、附加题	总分
得分								

一、仔细审题，填一填。（每空1分，共28分）

1. 把口诀填写完整。

（　　）八四十　　六（　　）五十四

（　　）七四十九　　二（　　）一十

2. 傍晚亮亮放学背对着太阳回家，他的后面是（　　），前面是（　　）。

3. 找规律填数。

（1）72，64，56，（　　），（　　）。

（2）0，9，18，（　　），36，（　　），54。

4. 在○里填上“×”或“÷”。

4○6=24　　35○7=5　　7○8=56　　63○9=7

5. （　　）里最大能填几？

（　　）×4<15　　（　　）×6<32　　7×（　　）<58

6. 把12个苹果平均分给4个小朋友，每个小朋友分（　　）个；如果平均分给6个小朋友，每个小朋友分（　　）个。

7. 张建今年8岁，奶奶的年龄是张建的7倍，奶奶今年（　　）岁，妈妈今年32岁，妈妈的年龄是张建的（　　）倍。

8. 从3，4，5这三个数中，任意选其中两个数组成乘法算式，有（　　）种不同的积。

9.  在左图中，有（　　）条线段，有（　　）个角，其中比直角小的角有（　　）个。

10. 如果○×△=21，○×□=42，△×□=18，那么○=（　　），△=（　　），□=（　　）。

二、判断。（对的打“√”，错的打“×”）（每小题1分，共5分）

1. 1+1=1×1，2+2=2×2。（　　）

2. 把8个梨放在2个盘子里，每个盘子里一定有4个梨。（　　）

3.  左图中有6个平行四边形。（　　）

4. 每一句口诀都能写出两道乘法算式和两道除法算式。（　　）

5. 三角尺上的直角和黑板上的直角不一样大。（　　）

三、慎重选择。（把正确答案的序号填在括号里）（每小题2分，共10分）

1. 下面三个图形中，（　　）是钝角。

A. 　　B. 　　C. 

2. 哥哥有8张奖状，姐姐的奖状数量是哥哥的4倍，姐姐有多少张奖状？列式错误的是（　　）。

A. 8×4　　B. 8+4　　C. 4×8

3. 用菊花、满天星和百合三种花中的至少两种做插花，一共有（　　）种搭配方法。

A. 7　　B. 5　　C. 4

4. 老师买来一些铅笔，铅笔的支数比30多，比40少，平均放在一些笔袋里，每袋内放的支数与笔袋数正好同样多，老师买来（　　）支铅笔。

A. 25　　B. 30　　C. 36

5. 在一个正方形花坛边上摆花盆，每条边摆3个花盆，至少需要（　　）个花盆。

A. 9　　B. 8　　C. 12

四、看清题目，我会算。（共22分）

1. 口算。（4分）

18÷2=	9×6=	48÷8=	45÷5=
9×7=	6×0=	56÷8=	5×7=

2. 用竖式计算。（8分）

7×6=	36÷4=	63÷9=	3×8=

3. 算一算。（4分）

3×3×8=　　27÷9÷3=　　9×5−7=　　56÷7×5=

姓名　学号　班级　学校
请不要在密封线内答题哦！
微信搜索
教辅资料站
关注微信公众号“教辅资料站”获取更多学习资料

4. 看图列式计算。(6 分)

(1)



□ × □ = □

(2)



平均每个篮子放几个苹果?

□ ○ □ = □ (个)

(3)



□ ○ □ ○ □ = □

五、按要求完成下面各题。(共 13 分)

1. 在钟面上画出时间,使时针和分针形成不同的角。(3 分)

锐角



直角



钝角



2. 圈一圈,填一填。(4 分)

(1) 每筐装 4 个,需要装 (　　) 筐。



(2) 如果想 3 次运完,平均每次运 (　　) 棵

3. 小东家在电影院的 (　　) 面。从小云家到电影院,可以先向 (　　) 走 到学校,再向 (　　) 走到电影院。(3 分)

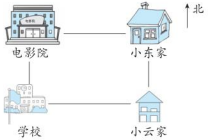

4. ☺的个数是☹的 2 倍,有几个 ☺? 画一画,并用算式表示。(3 分)

☹☹☹☹

六、解决问题。(共 22 分)

1.



(1) 小芳跳了多少下?(3 分)　　(2) 小红跳的下数是菲菲的几倍?(4 分)

□ ○ □ = □ (下)　　□ ○ □ = □

2. 鑫苑小区的每幢房子都有 6 层,每层高 3 米,鑫苑小区的每幢房子有多高?(5 分)

3. 自动售货机被称为 24 小时营业的微型超市,自动售货机的管理员要把 54 瓶饮料上架,平均分成 6 列摆放,每列放几瓶?(5 分)

4. 王阿姨花 81 元买了 9 盒蛋糕,每盒里有 3 块蛋糕,平均每块蛋糕多少钱?(5 分)

七、附加题:天才的你,试一试。(10 分)

爸爸从楼下的小卖部给贝贝买了 20 罐可口可乐,小卖部规定:"用 5 个可口可乐罐可换 1 罐可乐。"小朋友,想一想,贝贝最多能喝到多少罐可口可乐?

自己说说
老师点评
家长点评
微信公众号
教辅资料站
关注微信公众号"教辅资料站"获取更多学习资料

单元培优测试卷

第一单元　乘法的初步认识

一、1. 因数　积　乘号
2. 4乘3　3　4　4　3
3. 它本身　0
4. 5×4（或4×5）
5. 3　1　1　9　3×3=9（条）
6. 1+3+5+7+9　5×5

二、1. ×　2. √　3. ×　4. √　5. ×

三、1. B　2. B　3. C　4. A　5. C

四、1. 1　7　2. 0　4　3. 3　5
4. 5　6　5. △　3

五、1. 1+1+1+1=4（个）　1×4=4（个）
6+6+6+6=24（块）
6×4=24（块）（或4×6=24（块））
2. 3　4　4+4+4=12　4×3=12
3×4=12
3. 2　5　5+5=10　5×2=10　2×5=10
4. 5+5+5=15　3+3+3+3+3=15
3×5=15　5×3=15
5. 6+6+6=18　3+3+3+3+3+3=18
3×6=18　6×3=18

六、 

七、1. ○○○○　○○○○　○○○○
○○○○　○○○○　○○○○
○○○○
△△△△△△△△　△△△△△△△
△△△△△△△　△△△△△△△
2. 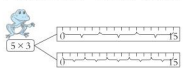

八、1. 2+2+2+2+2+2+2=14
2×7=14（或7×2=14）
2. （1）8+8=16　2×8=16（或8×2=16）
（2）4+4+4+4=16　4×4=16
（3）答案不唯一，如：一共有多少人参加跳绳活动？
7+7+7=21（人）
7×3=21（人）（或3×7=21（人））
3. 2+2+2+2=8（名）（或2×4=8（名）或4×2=8（名））
9>8　不能同时乘船。

九、**附加题**：3+3−1=5（人）
5+5+5+5+5=25（人）
（或5×5=25（人））
【点拨】每行有3+3−1=5（人），一共有5行，所以一共有25人。

第二单元　表内乘法（一）

一、1. 3×5=15　5×3=15
2. 12　4乘3等于12　三四十二
3. 5×5=25
4. <　>　=　>　<　=
5. 5　4
6. 3　3　4　4　2　4
7. 2×4=8（名）（或4×2=8（名））

二、1. ×　2. ×　3. ×　4. √　5. √

三、1. A　2. C　3. B　4. B　5. C

四、1. 0　6　12　3　9　10　1　5
2. +　−　×　−　×　−
3. 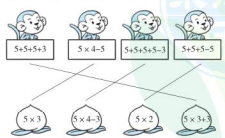

五、1. 4×4=16　四四十六
2. 4×2=8（或2×4=8）　二四得八
3. 5×3+3=18　5×4−2=18
4. 5×4+3=23　5×5−2=23

六、 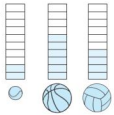
1×2=2（或2×1=2）
2×3=6（或3×2=6）
2×2=4

七、1. 3×2=6（或2×3=6）
2. 3×4=12（或4×3=12）
3. （1）3×3=9
（2）2×4=8（或4×2=8）
（3）答案不唯一，如：一共有几只小鹿？
5×2=10（只）（或2×5=10（只））
4. （1）5×4=20（或4×5=20）【点拨】每行有5个字，共4行，就是求4个5的和。
（2）5×4+4=24（或5×5−1=24）
5. 乐乐：3×3+5=14（分）
聪聪：5×3+3=18（分）

八、**附加题**：5×4=20（米）（或4×5=20（米））
【点拨】把一根绳子对折再对折相当于将绳子分成相等的4段，求这根绳子长多少米就是求4个5米是多少，即5×4=20（米）（或4×5=20（米））。

第三单元　角的初步认识、智慧广场

一、1. 顶点　边　2. 锐角　钝角　3. 直
4. 8　5. 直　锐　6. 直　7. 3　3　4
8. 5　2　2　1　9. 16

二、1. ×　2. √
3. ×【点拨】直角都是一样大的。
4. ×　5. ×

三、1. C
2. A
3. C　4. B　5. B

四、1. （　）（√）（　）（√）（√）
2. 9　15　6　【点拨】按一定的顺序数，先数基本图形，再数2个拼起来的，再数3个拼起来的，最后数4个拼起来的。
3. ②④⑤　①③⑦⑧　⑥⑨
4. （1）3　（2）锐　（3）医院　学校

五、 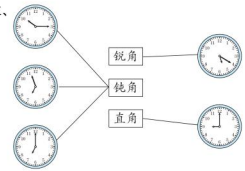

六、1. （1）5　15　3×5=15（或5×3=15）
（2）4　16　4×4=16
2. （1）  　（2） 
3. 6个
4. 

七、**附加题**：10条
【点拨】先将相邻的两个点依次连起来，可以得到5条线段，如图：  ；再将不相邻的两个点依次连起来，又可以得到5条线段，如图：  。所以一共可以画5+5=10（条）线段。

第四单元　表内乘法（二）

一、1. 30　6乘5等于30
2. 五十六　7×8=56　8×7=56
六　6×7=42　7×6=42
九　6×9=54　9×6=54
3. （1）4　5　20　（2）18
4. （1）32　（2）6
5. 四六二十四　三八二十四
6. 49
7. 9　2　8　8
8. 八十一　八九　二十一
9. 36
10. 6　8　7

关注微信公众号“教辅资料站”获取更多学习资料

二、1. × 2. × 3. × 4. × 5. √

三、1. B 2. C 3. B 4. B 5. C

四、1. 7 42 35 36 48 56 64 28 18 48
30 28

2. 48 18 28 63 竖式略

3.

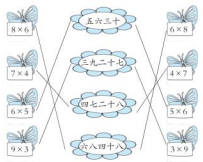

4. (1) 9×4=36 (或 4×9=36)
(2) 5×7=35 (或 7×5=35)
(3) 7×4+5=33 (或 7×5−2=33)

五、1. 8×2=16 (或 2×8=16)
8×4=32 (或 4×8=32)

2. 6×2=12 (名) (或 2×6=12 (名))

3. 8×7=56 (页) (或 7×8=56 (页))
56<60 明明一周 (7 天) 不能读完这本书。

4. 9×9=81 (天)

六、附加题: 28 7

期中测试卷

一、1. 6×5=30 (或 5×6=30) 6 乘 5 等于 30 (或 5 乘 6 等于 30)

2. 八十一 三 八 五 九 四五

3. 3 9

4. 24

5. 2 4 4 2 3 5 + 2

6. > < > =

7. 大 两边张开程度

8. 2

9. (1) 12 15 (2) 25 36 49

10. 28

二、1. × 2. √ 3. × 4. × 5. ×

三、1. B 2. B 3. C 4. B 5. A

四、1. 56 27 35 55 20 4 16 15 14 0
40 40

2. 40 54 16 24 竖式略

3. (1) 3×3=9 三三得九
(2) 8×4+5=37 (或 8×5−3=37)
(3) 5×4+4=24 5×5−1=24
(4) 28 7+7+7+7=28 (个) 7×4=28 (个) 4×7=28 (个) 四七二十八

五、1. ○○○○○○○○○○○○

2. △△△△△△△△

六、1. 3×4=12 (个) (或 4×3=12 (个))

2. (1) (√) (√) (√)
(2) 答案不唯一, 如: 小丽 前 8 列每列有 5 个座位, 第 9 列有 2 个座位, 所以一共有 5×8+2=42 (个) 座位。

3. 二 (1) 班: 3×4+2=14 (幅) (或 4×4−2=12 (幅))
二 (2) 班: 2×5+3=13 (幅) (或 3×5−2=13 (幅)) 14>13 二 (1) 班的环保宣传栏中的作品多。

七、附加题: 8×4−4=28 (棵)

【点拨】每条边上 8 棵, 如果 8×4=32 (棵), 那么每个角上多算了 1 棵, 一共多算了 4 棵, 所以 32−4=28 (棵)。

第五单元 除法的初步认识

一、1. 18 除以 3 等于 6

2. 3 3 3 3

3. (1) 4 (2) 6

4. (1) 5 4 20 (2) 20 4 5
(3) 20 5 4

5. 9 3

6. (1) 3 (2) 6 (3) 2

7. (1) 5 (2) 8 (3) 5 3

二、1. √ 2. × 3. ×

三、1. B 2. B 3. A 4. C 5. C

四、1.

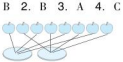

2.



五、1. 0÷5=0

2. (1) 9 18÷2=9 (2) 2 18÷9=2

3. 12÷3=4

六、1. 16 2 8 16÷2=8

2. 24÷8=3

3. 18÷3=6

4. 2×4=8 (人) (或 4×2=8 (人)) 6÷2=3 (人)
【点拨】每两人抬 1 张桌子, 也就是说每张桌子需要 2 人, 4 张桌子就需要 2×4=8 (人) (或 4×2=8 (人))。每人搬 2 把椅子, 那 6 把椅子中有几个 2 把就需要几人, 即 6÷2=3 (人)。

5. (1) 9÷3=3 (个)
(2) 4×3=12 (顶) (或 3×4=12 (顶))
12>10 不够。
(3) 答案不唯一, 如: 平均每人分到几本《童话故事》?
6÷3=2 (本)

七、附加题: 7−1=6 24÷6=4 (米)

第六单元 认识方向

一、1. 西 东 北 南【点拨】太阳从东方升起, 所以小明是面向西, 此时根据“面西背东, 左南右北”可以得到答案。

2. (1) 东 (2) 西 (3) 北

3. 北 南 西 东

4. 北 南

5. 南 东

6. 西

7. 西 东

8. 南 北 南 北

9.

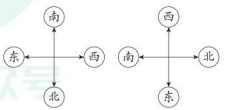

10. (1) 6 (2) 3; 00 东 北

二、1. B 2. C 3. C 4. A 5. D C

三、1. (1) 东 南 (2) 北 西

2. 北面: 28+4 4×9 6×9 8×7
西面: 2×8 2×7 20−4
南面: 3×9 3×7
东面: 3×3 0÷5 0×7

3.

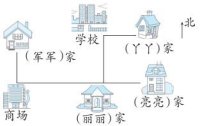

4.

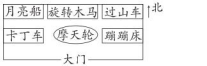

5.



6.



7. 略

四、



五、附加题:



第七单元 表内除法、智慧广场

一、1. 九 9 三 3 2. 8

3. 9 2 18 3

4. 9 35 9

5. 7 8 6. 4 3

7. 6

关注微信公众号“教辅资料站”获取更多学习资料

8. 2

9. 4

10. 5 8 7 2 6 9

二、1. √ 2. √ 3. × 4. √ 5. ×

三、1. A 2. B 3. B 4. C 5. A

四、1. 5 3 4 6 1 7 4 5

2. 48 42 3 9 45 28

3. 4 7 7 3 竖式略

五、1. $4\times5=20$ $5\times4=20$ $20\div4=5$ $20\div5=4$

2. 3 4 $3\times4\div2=6$

六、6 2 3 4

七、1. (1) $40\div5=8$ (2) 皮球

2. 7 种

3. (1) 每枝玫瑰花 6 元 每枝百合花 9 元

(2) $6\times6\div9=4$（枝）

八、附加题：12 3 4 4 2 32 4 8

归类培优测试卷

1. 计算

一、1. 8 五八四十 被除数 除数

2. 9 7

3. 三 六 三 七 五 四

4. 5 15 14

5. 5

6. 8

7. 28 30 7

8. ÷ ×（或+） × × ÷ + − ×

9. 9

10. 21

二、1. × 2. × 3. × 4. × 5. √

三、1. A 2. C 3. A 4. C 5. B

四、1. 54 24 0 21 18 72 0 5 65

3 15 4

2. 32 5 3 48 竖式略

3. < < = > > > > < >

4. 2 2 2 6 6 6 6

5. (1) $5\times3=15$ $3\times5=15$ $15\div3=5$

$15\div5=3$

(2) $3\times4+2=14$（或 $3\times5-1=14$）

五、东面：$20\div4\div1$ 3×2 $36\div9$ $24\div4$ $28\div7$

西面：2×7 8×2

北面：5×6 3×9

南面：$5\times8-5$ $7\times4+6$ $5\times7-1$

六、1. $7\times5=35$

2. $12\div4\times6=18$

3. (1) $24\div6=4$ (2) $9\times3=27$

(3) 答案不唯一，如：小狗和兔子一共有多少只？$9+6=15$（只）

4. (1) $6\times4=24$（本）

(2) $5\times6+13=43$（本）

七、附加题：$10-1=9$（张） $9\times2=18$（名）

2. 角与方向

一、1. 10 10 5 5

2. (1) 北 东 (2) 南 西 (3) 南 西

3. 北 东 西

4. 丙 5. 南 北 西

6. 钝角 钝角 钝角 锐角

二、1. × 2. × 3. × 4. √ 5. ×

三、1. A 2. C 3. C 4. A 5. C

四、1.  （答案不唯一）

2. 5 2 4 3 6 2

3. （答案不唯一）

(1)  (2) 

(3) 

五、1. (1) 北 (2) 南 (3) 西 (4) 东

2. (1) 西 60 (2) 北 20 东 50

(3) 西 30 北 50

3. 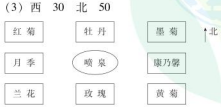

4. 

5. 21 个

六、附加题：$3+2+1=6$（条）

$6-1=5$（条）

【点拨】原来有 1 条线段，有 2 个端点，又点了 2 个点，就有 4 个点，即⊢⊣⊢⊣。先求出现在共有多少条线段，再减去原来的 1 条，就是多出的线段条数。

3. 解决问题

一、1. $15\div3=5$ 2. 3 3. 60 4. 4

5. 60 6. 张小明

7. 7 【点拨】只用一种水果，可以做 3 种果盘；用两种水果，可以做 3 种果盘；三种水果都用上可以做 1 种果盘。因此一共可以做 $3+3+1=7$（种）果盘。

8. 14

9. (1) 5 (2) 9

二、1. √ 2. √ 3. × 4. × 5. √

三、1. B 2. B 3. C 4. C 5. C

四、1. $4\times7=28$ $7\times4=28$

2. $9\times2=18$ $2\times9=18$ $18\div2=9$ $18\div9=2$

3. $3\times4+2=14$（或 $4\times4-2=14$）

4. $4\times5+3=23$ $5\times5-2=23$

五、1. 7 5 $5\times7=35$（张）

2. $35\div5=7$（道）

3. (1) $6\times4=24$（根）

(2) $24\div3=8$（个）

4. $4\times9\div6=6$（个）

5. $8\times7+20=76$（页） 【点拨】先求出一个星期看的页数：$8\times7=56$（页），再加剩余的 20 页，就求出了这本童话书一共的页数。

6. ① ② 一共可以分几组？ $36\div9=4$（组）

（答案不唯一）

六、附加题：$9+6=15$（根） $15\div3=5$（根）

3 元 = 30 角 $30\div5=6$（角）

综合培优测试卷

1. 期末测试卷（一）

一、1. 五 九 七 五

2. 西面 东面 【点拨】傍晚太阳在西面，背对着太阳，说明后面就是西面，那么前面肯定是东面。

3. (1) 48 40 (2) 27 45

4. × ÷ × ÷

5. 3 5 8

6. 3 2

7. 56 4

8. 3

9. 6 7 4

10. 7 3 6

二、1. × 【点拨】$1+1>1\times1$。

2. × 【点拨】没有说明“平均分”，所以每个盘子里不一定是 4 个。

3. √ 4. × 5. ×

三、1. C 2. B 3. C 4. C 5. B

四、1. 9 54 6 9 63 0 7 35

2. 42 9 7 24 竖式略

3. 72 1 38 40

4. (1) $4\times3=12$（或 $3\times4=12$）

(2) $10\div2=5$

(3) $3\times7+2=23$（或 $3\times8-1=23$）

五、1. 略

2. 圈一圈略 (1) 4 (2) 8

3. 东 西 北

4. ☺☺☺☺
☺☺☺☺

$2\times4=8$（个）（或 $4\times2=8$（个））

六、1. (1) $8\times3=24$（或 $3\times8=24$）

(2) $40\div8=5$

2. $3\times6=18$（米）

3. $54\div6=9$（瓶）

4. $81\div9\div3=3$（元）

七、附加题：25 罐

2. 期末测试卷（二）

一、1. 5 3 $3+3+3+3+3=15$ $3\times5=15$

$5\times3=15$ 三五十五

2. 2 4 0

微信公众号 教辅资料站
关注微信公众号“教辅资料站”获取更多学习资料

3. 5　6　5

4. 20　8

5. 6　4

6. 3

7. 35　28

8. 42　6

9. 12　16

10. 7【点拨】用一张可以组成 3 个字：木，又，寸。

用两张可以组成 3 个字：村，对，权。

用三张可以组成 1 个字：树。

二、1. ×　2. √　3. √　4. ×

三、1. B　2. C　3. C　B　4. A　5. C

四、1. 7　7　27　6　6　49　7　37　25　28

2. 28　2　9　56　竖式略

3.（1）12 ÷ 4 = 3

（2）4 × 4 = 16

（3）5 × 5 = 25

（4）3 × 5 + 2 = 17（或 3 × 6 − 1 = 17）

五、1.（1）北　东

（2）北　南

（3）西　东

（4）东湖亭　邮局

（5）南　东

2. 钝角　锐角

六、1. 30 ÷ 5 = 6（个）

2. 6 × 5 + 8 = 38（个）

40 > 38　够。

3. 6 × 3 + 3 + 6 = 27（个）

七、附加题：2 + 4 − 1 = 5（个）

3 + 3 − 1 = 5（个）　5 × 5 = 25（个）

【点拨】妮妮从左边数是第 2 个，从右边数是第 4 个，所以妮妮所在的一行有 2 + 4 − 1 = 5（个）同学，每行人数相等，所以每行有 5 个同学，妮妮从前数是第 3 个，从后数也是第 3 个，所以妮妮所在的一列有 3 + 3 − 1 = 5（个）同学，每列人数相等，所以每列有 5 个同学，所以一共有 5 × 5 = 25（个）同学在做操。

核心考点突破卷

1. 乘法的初步认识

一、1. 3　5　3 + 3 + 3 + 3 + 3 = 15　3 × 5 = 15（或 5 × 3 = 15）

2. 5　2　5 + 5 = 10

5 × 2 = 10（或 2 × 5 = 10）

3. 3 × 3　3 × 4（或 4 × 3）

二、1. 6 + 6 + 6 = 18　3 × 6 = 18　6 × 3 = 18

2. 3　7　7 × 3 = 21（或 3 × 7 = 21）　7 乘 3 等于 21（或 3 乘 7 等于 21）　7 和 3　21

三、1. 3　4　4　3

2. 7　2　2　7

3. 0　4　4　0

4. 3　6　6　3

四、5 + 5 + 5（√）　5 + 3（　）　5 × 3（√）

五、

20

六、

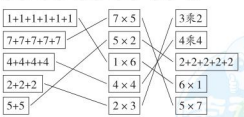

七、1.（1）1 + 1 + 1 = 3

3 × 1 = 3 或 1 × 3 = 3

（2）4 + 4 + 4 = 12

4 × 3 = 12 或 3 × 4 = 12

2.（1）0 + 0 + 0 = 0

0 × 3 = 0 或 3 × 0 = 0

（2）（答案不唯一）一共有多少个鱼篓？

2 + 2 + 2 = 6（个）

2 × 3 = 6（个）或 3 × 2 = 6（个）

2. 5 的乘法口诀、2 的乘法口诀

一、六　2 × 3 = 6　3 × 2 = 6

三　3 × 5 = 15　5 × 3 = 15

二　2 × 4 = 8　4 × 2 = 8

二十　4 × 5 = 20　5 × 4 = 20

二、1. 2　5　5 + 5 = 10　2 × 5 = 10　5 × 2 = 10

二五一十

2. 4　2　2 + 2 + 2 + 2 = 8　2 × 4 = 8　4 × 2 = 8

二四得八

3. 5　4　20　5 + 5 + 5 + 5 = 20　5 × 4 = 20

4 × 5 = 20　四五二十

三、15　10　8　2　5　25　4　20

四、

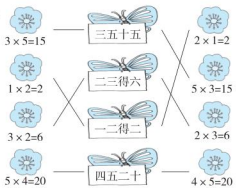

五、=　>　<　>　<　<　<　>　=　=　>　>

六、1. 5 × 5 = 25

2.（1）5 × 3 = 15 或 3 × 5 = 15

（2）2 × 2 = 4

3. 3 × 5 = 15（个）

18 > 15　够分。

3. 3、4 的乘法口诀、乘加、乘减

一、十二　3 × 4 = 12　4 × 3 = 12

二　2 × 3 = 6　3 × 2 = 6

五　4 × 5 = 20　5 × 4 = 20

四　1 × 4 = 4　4 × 1 = 4

二、1. 5　3　5 × 3 = 15　3 × 5 = 15　三五十五

2. 3　4　3 × 4 = 12　4 × 3 = 12　三四十二

三、4　3　10　15　9　0　9　10　14　30

13　13

四、=　>　>　<　<　>　>　=

五、1. 12　8　12　9　6　9　20　15　20

2. 10　9　14

六、1. 3 × 3 + 2 = 11

3 × 4 − 1 = 11

2.（1）4 × 4 = 16（个）【点拨】求 4 串糖葫芦一共有多少个山楂，就是求 4 个 4 相加是多少。

（2）3 × 4 = 12（元）或 4 × 3 = 12（元）

（3）（答案不唯一）2 串糖葫芦一共有多少个山楂？

4 × 2 = 8（个）或 2 × 4 = 8（个）

3. 5 × 3 − 2 = 13（个）

4. 角的初步认识、智慧广场

一、1. ②③⑤⑦

2. ②⑥　①⑤　③④

3. 小　大

4. 3　1　直

5. 直

6. ③　②　①

7. 直　钝　锐　钝　锐

二、1. ×

2. ×【点拨】角的大小只与两边叉开的大小有关。

3. √

4. ×【点拨】所有直角都一样大。

三、

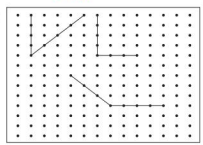

【点拨】答案不唯一。

四、



五、1. 1　4　1

2. 15

3. 5

关注微信公众号“教辅资料站”获取更多学习资料

六、6 个

5. 6、7 的乘法口诀

一、$4\times7=28$　$7\times4=28$

$2\times6=12$　$6\times2=12$

$3\times7=21$　$7\times3=21$

$4\times6=24$　$6\times4=24$

二、1. 6　3　18　$6\times3=18$　$3\times6=18$

2. 7　5　35　$7\times5=35$　$5\times7=35$

三、1. 35　42　14　18　14　18　6　49　21　25　30　42

2. 6　6　1　6　7　7　5　1

3. ＞　＞　＝　＞　＞　＜

4.

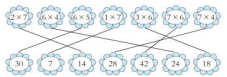

四、1. 24　30　36　2. 28　21　14

五、1. $6\times6=36$

2.（1）$3\times7=21$

（2）他们一共要做多少只纸鹤？

$6\times3=18$（只）　【点拨】答案不唯一。

3.（1）$7\times6=42$（页）

（2）$7\times7=49$（页）　$90-49=41$（页）

【点拨】先求 7 天看了多少页，再用全书的页数减去看了的页数就是还剩多少页没看。

6. 8、9 的乘法口诀和倍的认识

一、八　三　九　六　七十二　七　八　八　二　五七　八　九

二、8　72　36　24　56　27　42　18　45　63　81　9

三、$9\times6=54$　$7\times8=56$　$5\times9=45$　$8\times8=64$

$\begin{array}{r}9\\\times\ 6\\\hline54\end{array}$　$\begin{array}{r}7\\\times\ 8\\\hline56\end{array}$　$\begin{array}{r}5\\\times\ 9\\\hline45\end{array}$　$\begin{array}{r}8\\\times\ 8\\\hline64\end{array}$

四、

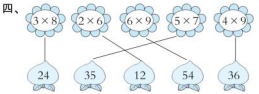

五、＞　＜　＜　＞　＜　＝　＞　＜　＞

六、1.（1）○○○○○○○○○　9

（2）△△△△△△△△△　8

2.（1）（　）（　）（√）

（2）（　）（√）（　）

【点拨】4 的 8 倍是 $4\times8=32$，比 32 多 5 的数是 $32+5=37$。

3.（1）$5\times9=45$ 或 $9\times5=45$

（2）$8\times3=24$ 或 $3\times8=24$

七、1. $9\times3=27$ 或 $3\times9=27$

2.（1）$8\times4=32$ 或 $4\times8=32$

（2）小明采了多少个蘑菇

7. 平均分

一、1.（√）　（×）　（×）

2.（1）4　（2）5

二、1. B　【点拨】A 没有平均分，C 平均分给了 2 个小朋友。

2. A

三、

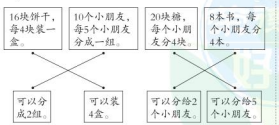

四、1. 圈一圈略　（1）5　（2）3

2.（1）6　（2）4

3. 9

五、最少拿走 2 个，每个小朋友可以分 2 个。

【点拨】12 个苹果不能被平均分给 5 个小朋友，想结果最接近 12 且比 12 小，且含有“五”的乘法口诀，即“二五一十”，10 比 12 少 2，可以拿走 2 个苹果，变成 10 个苹果，把它们平均分给 5 个小朋友，每个小朋友可以分 2 个。

8. 除法的意义、有关 0 的除法

一、1. 圈一圈略　（1）$9\div3=3$　（2）$12\div2=6$

2.（1）10　2　5　$10\div2=5$

（2）0　2　0　$0\div2=0$

二、1. 8　72　9　72 除以 8 等于 9

2. 9

3. ＜　＞　＞　＜　＝　＜　＞　＜

三、1. 6　2　3　$6\div2=3$

2. $24\div3=8$　$24\div8=3$

$24\div4=6$　$24\div6=4$

3.（1）3　$12\div4=3$　（2）2　$12\div6=2$

四、3 根

9. 认识方向

一、1. 东　西

2. 南

3. 东　西　北　南

4. 南　北　南

5. 东

二、

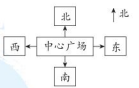

三、



四、1. A　D　2. D　A　B

五、1.（1）北　西　（2）东　南　（3）大象

【点拨】本题图中右上方的标志：上面是北方，可知下面是南方，左面是西方，右面是东方。

2.（1）北　（2）南　（3）西　（4）小莉家　（5）小峰家　（6）小轩家

【点拨】因为物体的位置关系是相对的，所以一定要注意是以什么为参照物的。

3.

D	F	C	北
E	A	H	
J	B	I	

六、

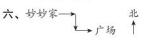

10. 用 2～9 的乘法口诀求商

一、1. 5

2. 6

3. 6

4. 二　2　5　四五二十

5. 3　9　5　7　8　5　5　2

6. 5　6　8　5　3　5

二、1. 7　7　3　8　4　99　42　50

2. $16\div4=4$　$12\div4=3$　$48\div6=8$　$25\div5=5$

$4\overline{)16}$ 商 4，余 0　$4\overline{)12}$ 商 3，余 0　$6\overline{)48}$ 商 8，余 0　$5\overline{)25}$ 商 5，余 0

3.

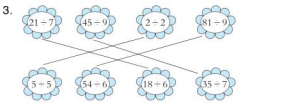

三、1. $3\times5=15$　$5\times3=15$　$15\div3=5$　$15\div5=3$

2. $5\times4=20$　$4\times5=20$　$20\div5=4$　$20\div4=5$

四、1. $12\div2=6$（本）

2.（1）$40\div8=5$（个）

（2）$18\div9=2$（个）

（3）18 元能买几个风车？

$18\div6=3$（个）

3. $24\div8=3$（元）　$36\div9=4$（元）

$3<4$　去甲超市买便宜。

11. 进一步认识倍、连乘、连除和乘除混合运算、智慧广场

一、36　21　7　56　49　7　48　3　4　1　4　8

二、1. 除法　乘法　18

关注微信公众号“教辅资料站”获取更多学习资料

2. 5　54　3　7

3. 7

4. 5　【点拨】25 ÷ 5 = 5

5. 4　【点拨】64 ÷ 8 ÷ 2 = 4（元）

6. 4 × 9 ÷ 6 = 6

三、1. 4　12 ÷ 3 = 4

2. 5　△△△△△　10 ÷ 2 = 5

四、

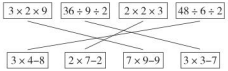

五、1.（1）6 × 7 = 42（个）

（2）21 ÷ 7 = 3

2. 6 × 5 ÷ 5 = 6（元）

【点拨】因为一个玩具小熊 5 元，所以 6 个玩具小熊的价钱是6 × 5 = 30（元）或 5 × 6 = 30（元），又因为 5 个玩具木马的价钱和 6 个玩具小熊的价钱相同，也就是 5 个玩具木马的价钱是 30 元，所以一个玩具木马的价钱是 30 ÷ 5 = 6（元）。

3. 7 种

期末冲刺抢分卷

1. 高频考点抢分卷

一、1. 7　16　30

2. 6 × 9 = 54　9 × 6 = 54

54 ÷ 6 = 9　54 ÷ 9 = 6

3. 9　【点拨】45 ÷ 5 = 9（周）

4. 3　钝　锐　三五十五

5. 48　【点拨】7 + 1 = 8（个）　6 × 8 = 48（个）

6. 2　3　3　5

二、1. √

2. ×　【点拨】如果平均放在 3 个盘子里，每盘只能放 2 个。

3. ×

4. ×

5. √

三、1. B

2. C

3. B　C

4. A　【点拨】12 ÷ 2 = 6（根）

6 − 1 = 5（次）

四、1. 49　0　6　3　11　1　8　32

2. 8 × 9 = 72　48 ÷ 8 = 6　63 ÷ 9 = 7　7 × 6 = 42

$\begin{array}{r} 8 \\ \times\ 9 \\ \hline 72 \end{array}$　$8\overline{)48}\ 6$　$9\overline{)63}\ 7$　$\begin{array}{r} 7 \\ \times\ 6 \\ \hline 42 \end{array}$

五、1. 20 ÷ 5 = 4

2.（1）2 × 9 = 18（元）

（2）5 × 3 + 36 = 51（元）

3. 2 × 4 × 3 = 24（元）　【点拨】先求出一共有多少条毛巾，2 × 4 = 8（条），再求一共用了多少钱，8 × 3 = 24（元）。

4. 35 ÷ 5 × 7 = 49（块）

2. 易错题抢分卷

一、1. 3　27

2. 锐　钝

3. 从左往右

4.（1）2　4　（2）4　2

5. 6　5

6. 7　7　14

二、1. B

2. A　【点拨】6 + 6 + 6 写成乘法算式是 6 × 3，4 + 4 + 4 + 4 + 4 写成乘法算式是 4 × 5。

3. B

三、1. 4　2　1

2. 5　10　10

3. 7　8

四、　儿童乐园平面图



五、1. 5 × 3 + 2 = 17　4 × 5 − 3 = 17

2. 4 × 6 ÷ 3 = 8

六、1.（1）35 − 7 = 28

（2）6 × 7 = 42 或 7 × 6 = 42

（3）35 ÷ 7 = 5

2. 4 + 1 = 5（人）

20 ÷ 5 = 4（棵）

【点拨】乐乐和他的 4 个好朋友一共有5 人。所以求平均每人种了几棵树应列式为 20 ÷ 5 = 4（棵）。

3. 常见难题抢分卷

一、1. △

2. 40　【点拨】锯木头时，锯的段数 − 1 = 锯的次数，因此把一根木头锯成 6 段，就要锯 6 − 1 = 5（次）。每锯一次需要 8 分钟，锯 5 次就需要 5 个 8 分钟，即 8 × 5 = 40（分钟）或 5 × 8 = 40（分钟）。

3. 7　3　6

4. 2

5. 32　24

6. 6　7　4

7. 36　6　6（答案不唯一）

二、1. C

2. B

3. C

4. C

5. C　【点拨】从第一棵树到第六棵树一共有 5 个 8 米。

三、



四、1. 4 + 4 = 8　4 × 2 = 8　2 × 4 = 8

2. 12 ÷ 3 = 4　12 ÷ 4 = 3

3. 4 × 2 + 3 = 11　4 × 3 − 1 = 11

五、1. 15 个

2. 40 − 8 = 32（只）　32 ÷ 8 = 4　【点拨】先求出青蛙妈妈捉了多少只害虫，再算青蛙妈妈捉的害虫的数量是小青蛙的几倍。

4. 新题型抢分卷

一、1. 4　9　6

2. 0　5

3. 6　6　42　六七四十二

4. 5 + 5 + 5 = 15（个）　3　5

3 × 5 = 15（个）　5 × 3 = 15（个）

5. 锐　钝

6. 2

7. 南　西　东

二、1. C　2. A

3. B　【点拨】4 × 5 = 20（元），因为找回的钱不到 4 元，所以彩笔的价格高于 16 元，低于 20 元。

4. C　【点拨】最大的一位数是 9，即 9 × 9 = 81。

5. B

三、9 × 4 = 36　6 × 6 = 36　4 × 9 = 36　36 ÷ 9 = 4

36 ÷ 6 = 6　36 ÷ 4 = 9

四、1. 40 ÷ 5 = 8（分钟）　8 × 2 = 16（分钟）

【点拨】从①到⑥一共是 5 段。40 ÷ 5 = 8（分钟），表示燃烧每段用 8 分钟。从⑥到④燃烧了 2 段，即 8 × 2 = 16（分钟）。

2. 5 × 8 − 5 = 35（个）

关注微信公众号“教辅资料站”获取更多学习资料

好卷

微卷
助冲满分

WEIJUAN ZHUCHONG MANFEN

二年级

数学（上）（QD版）



- 核心考点突破卷（11套）
- 期末冲刺抢分卷（4套）

关注微信公众号“数辅资料站”获取更多学习资料

目录

核心考点 突破卷

1 乘法的初步认识 …… 1

2 5 的乘法口诀、2 的乘法口诀 …… 3

3 3、4 的乘法口诀、乘加、乘减 …… 5

4 角的初步认识、智慧广场 …… 7

5 6、7 的乘法口诀 …… 9

6 8、9 的乘法口诀和倍的认识 …… 11

7 平均分 …… 13

8 除法的意义、有关 0 的除法 …… 15

9 认识方向 …… 17

10 用 2 – 9 的乘法口诀求商 …… 19

11 进一步认识倍、连乘、连除和乘除混合运算、智慧广场 … 21

期末冲刺 抢分卷

1 高频考点抢分卷 …… 23

2 易错题抢分卷 …… 25

3 常见难题抢分卷 …… 27

4 新题型抢分卷 …… 29

微信公众号 教辅资料站

参考答案及点拨（见大卷第 30 ~ 32 页）

关注微信公众号“教辅资料站”获取更多学习资料

一、看图填一填。(每空 2 分，共 24 分)

1. 

每盘□个，一共有□盘。

加法算式：_____ (个)

乘法算式：_____ (个)

2. 

每行□只，一共有□行。

加法算式：_____ (只)

乘法算式：_____ (只)

3. 

3×2　　(　　)×(　　)　　(　　)×(　　)

二、我会填。(每空 3 分，共 27 分)

1. 计算 3 个 6 相加，写成加法算式是 (　　)，写成乘法算式是 (　　) 或 (　　)。

2. 7+7+7 表示 (　　) 个 (　　) 相加，用乘法计算是 (　　)，读作 (　　)，其中因数是 (　　)，积是 (　　)。

三、改写成乘法算式。(每空 1 分，共 16 分)

1. 3+3+3+3 = (　　)×(　　) = (　　)×(　　)

2. 7+7 = (　　)×(　　) = (　　)×(　　)

3. 0+0+0+0 = (　　)×(　　) = (　　)×(　　)

4. 6+6+6 = (　　)×(　　) = (　　)×(　　)

四、在正确算式后面的 (　) 里面打“√”。(4 分)

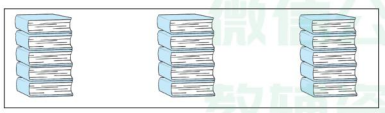

5+5+5 (　　)

5+3 (　　)

5×3 (　　)

关注微信公众号“教辅资料站”获取更多学习资料

五、照样子画一画，填一填。（6 分）

2 × 3	○○○　○○○ ○○　○○　○○	6

5 × 4		

六、把结果相同的用线连起来。（10 分）

1 + 1 + 1 + 1 + 1 + 1	7 × 5	3 乘 2
7 + 7 + 7 + 7 + 7	5 × 2	4 乘 4
4 + 4 + 4 + 4	1 × 6	2 + 2 + 2 + 2 + 2
2 + 2 + 2	4 × 4	6 × 1
5 + 5	2 × 3	5 × 7

七、看图列式计算。（共 13 分）

1. 

（1）一共有多少个盘子？（3 分）　（2）一共有多少个苹果？（3 分）

□ + □ + □ = □（个）　□ + □ + □ = □（个）

□ × □ = □（个）　□ × □ = □（个）

2. 小猫钓鱼。



（1）一共钓了多少条鱼？（4 分）

□ + □ + □ = □（条）　□ × □ = □（条）

（2）你还能提出什么问题？提出并解答。（3 分）

卡德基好卷
微信公众号
教辅资料站

关注微信公众号“教辅资料站”获取更多学习资料

一、把下列口诀补充完整，再根据口诀写乘法算式。(12分)

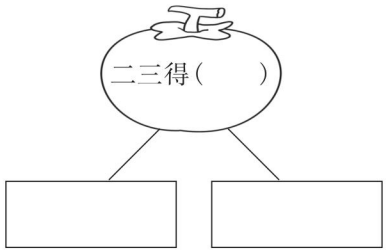

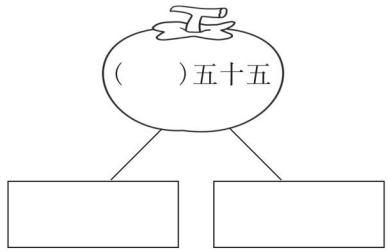

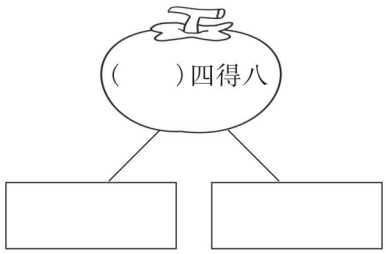

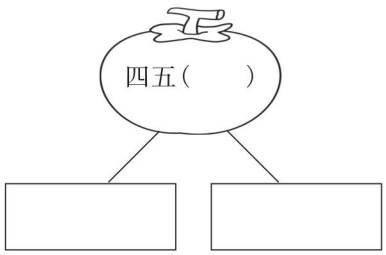

二、按要求填一填。(每空1分，共19分)

1. 

(　　)个(　　)相加

加法算式：_____(颗)

乘法算式：_____(颗)

或_____(颗)

口诀：_____

2. 

(　　)个(　　)相加

加法算式：_____(只)

乘法算式：_____(只)

或_____(只)

口诀：_____

3. 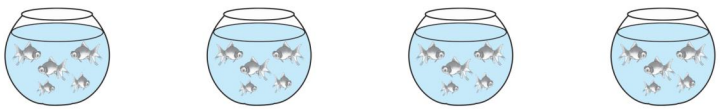

每个鱼缸里有(　　)条鱼，有(　　)个鱼缸。一共有(　　)条鱼。

加法算式：_____(条)

乘法算式：_____(条)或_____(条)

口诀：_____

三、算一算。(8分)

5×3=	2×5=	2×4=	2×1=
5×1=	5×5=	2×2=	5×4=

关注微信公众号“教辅资料站”获取更多学习资料

四、连一连。（8 分）

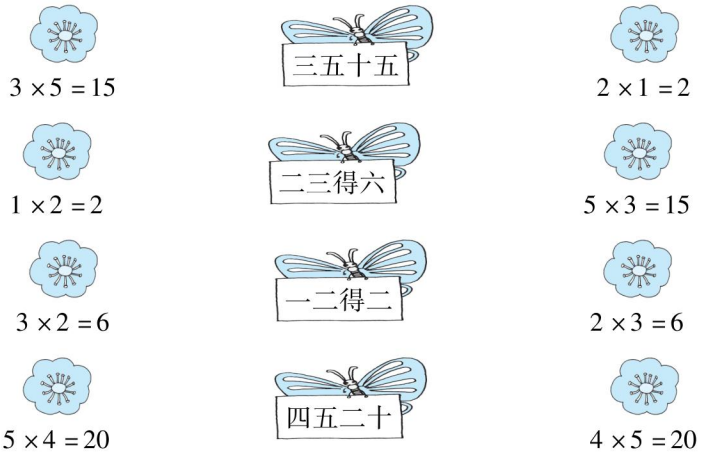

五、在○里填上“ > ”“ < ”或“ = ”。（24 分）

1 × 2 ○ 2 × 1	2 × 4 ○ 2 × 3	2 + 2 ○ 2 × 3	2 × 5 ○ 5 + 2
5 × 2 ○ 5 × 3	5 + 5 + 5 ○ 4 × 5	2 × 1 ○ 2 + 1	5 × 5 ○ 1 × 1
4 + 0 ○ 2 × 2	2 × 2 ○ 2 + 2	2 × 3 ○ 2 + 3	5 × 1 ○ 5 × 0

六、解决问题。（共 29 分）

1. 一共有多少个橘子？（7 分）



□ ○ □ = □（个）

2. 买雪糕。



3 元

（1）买上面这些雪糕要花多少钱？（7 分）

□ ○ □ = □（元）

（2）如果每根雪糕 2 元，那么买 2 根雪糕要花多少钱？（7 分）

□ ○ □ = □（元）

3. 有 18 个风筝，3 个小朋友分，每人分 5 个，够分吗？（8 分）

关注微信公众号“教辅资料站”获取更多学习资料

③ 3、4的乘法口诀、乘加、乘减

班级 | 姓名 | 得分 | 满分：100分 时间：40分钟

一、把下列口诀补充完整，再根据口诀写乘法算式。(12分)

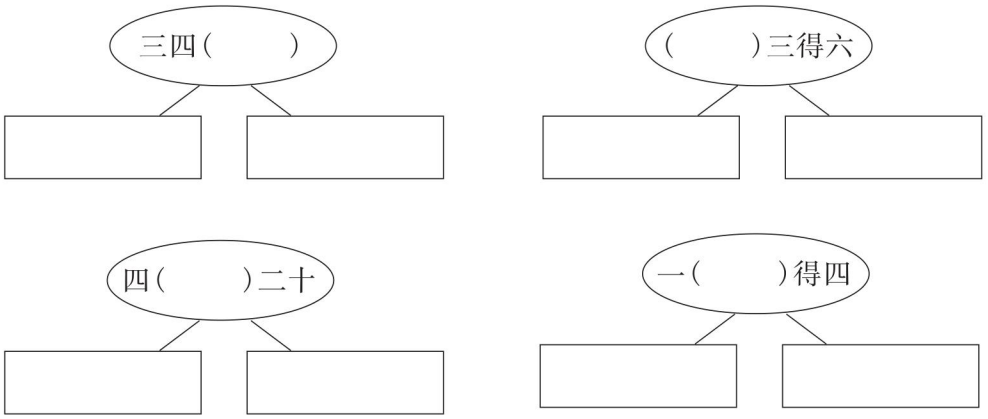

二、看图填一填。(每小题6分，共12分)

1. 

想：(　　)个(　　)相加

□ × □ = □ (个)

或 □ × □ = □ (个)

口诀：_____

2. 

想：(　　)个(　　)相加

□ × □ = □ (支)

或 □ × □ = □ (支)

口诀：_____

三、算一算。(12分)

1×4=	3×1=	2×5=	5×3=
3×3=	4×0=	4×2+1=	3×2+4=
4×3+2=	5×5+5=	4×5−7=	3×2+7=

四、在○里填上“>”“<”或“=”。(8分)

1×4 ○ 4	2×5 ○ 7	3×5 ○ 8	4×4 ○ 20
5+2 ○ 10	2×2 ○ 1×3	3×5−5 ○ 9	4×4+1 ○ 5×4−3

五、在□里填上合适的数。(共15分)

1. (9分)

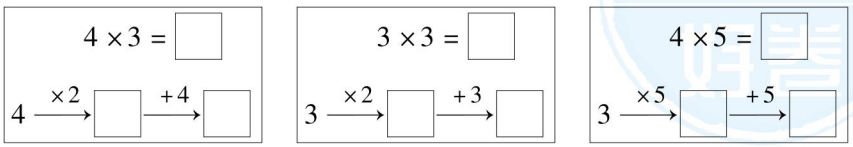

关注微信公众号“教辅资料站”获取更多学习资料

2. 数积木。(6 分)

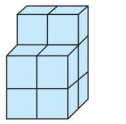

有□块

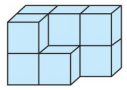

有□块



有□块

六、解决问题。(共 41 分)

1. 一共有多少条鱼?(8 分)



□○□○□=□(条)或□○□○□=□(条)

2.

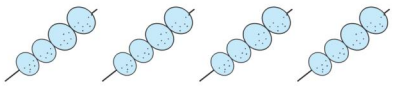

(1) 4 串糖葫芦一共有多少个山楂?(8 分)

(2) 每串糖葫芦 3 元,买 4 串糖葫芦需要多少钱?(8 分)

(3) 请你再提出一个用乘法解决的问题,并解答。(8 分)

3. 还剩多少个苹果?(9 分)



关注微信公众号"教辅资料站"获取更多学习资料

一、我会填。（每空 2 分，共 36 分）

1. 下面是角的图形有（　　）。（填序号）

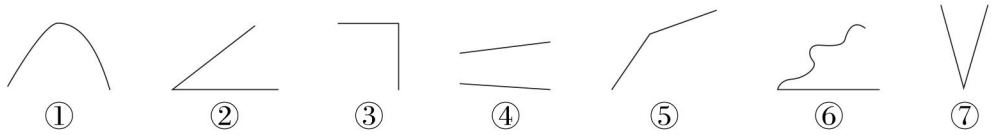

2. 分一分，填一填。（填序号）





3. 锐角比直角（　　），钝角比直角（　　）。

4. 一个三角板有（　　）个角。其中直角有（　　）个。最大的那个角是（　　）角。

5. 国旗的四个角都是（　　）角。

6. 下列钟面上的时针和分针分别组成了大小不同的角，你能将这些角按从小到大的顺序排列起来吗？（填序号）

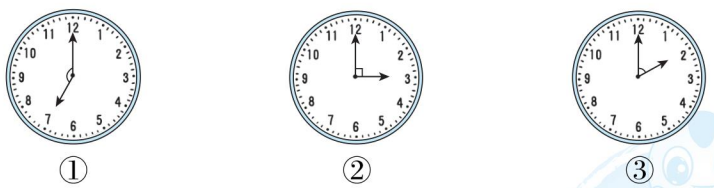

（　　）<（　　）<（　　）

7. 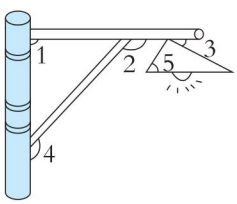

角 1 是（　　）角　　角 2 是（　　）角

角 3 是（　　）角　　角 4 是（　　）角

角 5 是（　　）角

关注微信公众号“教辅资料站”获取更多学习资料

二、我会判断。（每小题 2 分，共 8 分）

1. 任何物体的表面都有角。（　　）
2. 角的边画得越长，角就越大。（　　）
3. 长方形和正方形都有 4 个直角。（　　）
4. 三角板上的直角比黑板上的直角小。（　　）

三、在下面点子图上画出一个锐角、一个钝角和一个直角。（15 分）



四、找出下面图形中的直角，并用“ ⌝ ”表示出来。（12 分）

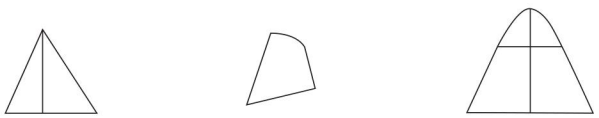

五、数图形。（每空 4 分，共 20 分）

1. 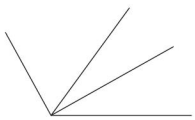

直角有（　　）个，锐角有（　　）个，

钝角有（　　）个。

2. 一共有（　　）条线段。



3. 

有（　　）个长方形。

六、包含☆的正方形有多少个？（9 分）

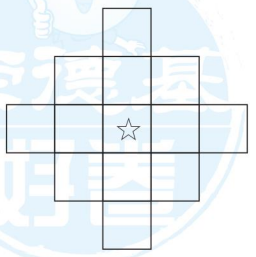

关注微信公众号“教辅资料站”获取更多学习资料

一、填一填。(每空 2 分，共 34 分)

1. 被除数是 42，除数是 6，商是 (　　)。两个因数都是 4，积是 (　　)。5 的 6 倍是 (　　)。

2. 根据口诀“六九五十四”写出两道乘法算式和两道除法算式。

(　　)　(　　)　(　　)　(　　)

3. 一周有 7 天，其中 5 天上课，小明上了 45 天课，他一共上了 (　　) 周课。

4. 红领巾上有 (　　) 个角，分别是 (　　) 角和 (　　) 角。求 5 条红领巾上一共有多少个角，计算时用的口诀是 (　　)。

5. 小明和 7 个同学一起拾贝壳，每人拾 6 个，一共拾了 (　　) 个贝壳。

6. 数一数有几个角。


(　　) 个


(　　) 个


(　　) 个


(　　) 个

二、判一判。(每小题 2 分，共 10 分)

1. 计算 7×5 和 35÷5 时，用的口诀相同。 (　　)

2. 把 6 个苹果放在 3 个盘子里，每盘只能放 2 个。 (　　)

3. 45÷9=5 读作 45 除 9 等于 5。 (　　)

4. 学校举行舞蹈、唱歌、绘画比赛。比赛时至少选 1 种，最多选 3 种，一共有 6 种不同的选择方法。 (　　)

5. 绘画小组有 6 人，音乐小组的人数是绘画小组的 9 倍。音乐小组有 54 人。 (　　)

三、选一选。(每空 2 分，共 10 分)

1. 下列各题中列式与其他两个一定不同的是 (　　)。

A. 4 个 8 相加　　B. 4 和 8 相加　　C. 8 的 4 倍

2. 9×9−9=9×(　　)。

A. 10　　B. 9　　C. 8

3. 爸爸开车向北行驶，他的后面是 (　　)，左面是 (　　)。

A. 东　　B. 南　　C. 西

4. 把 12 米长的绳子剪成 2 米一根的跳绳，最多需要剪 (　　) 次。

A. 5　　B. 6　　C. 7

关注微信公众号“教辅资料站”获取更多学习资料

四、算一算。（共 16 分）

1. 直接写得数。（8 分）

$7 \times 7 =$	$0 \times 8 =$	$36 \div 6 =$	$15 \div 5 =$
$9 \times 9 - 70 =$	$56 \div 8 \div 7 =$	$16 \div 4 \times 2 =$	$2 \times 4 \times 4 =$

2. 用竖式计算。（8 分）

$8 \times 9 =$	$48 \div 8 =$	$63 \div 9 =$	$7 \times 6 =$

五、解决问题。（共 30 分）

1. 欣欣水果超市里每千克苹果 5 元，每千克草莓 20 元，每千克草莓的价钱是每千克苹果的几倍？（6 分）

2.



每支 2 元



每瓶 3 元



每个 36 元

（1）买 9 支笔需要多少钱？（6 分）　（2）买 5 瓶牛奶和一个书包共需要多少钱？（6 分）

3. 幼儿园买了 2 盒毛巾，每盒有 4 条，每条毛巾 3 元钱，幼儿园买这些毛巾一共用了多少钱？（6 分）

4. 有 35 只小鸟，5 只小鸟住在一间房子里，造一间房子需要 7 块木板。造这些小鸟住的房子一共需要多少块木板？（6 分）

关注微信公众号“数辅资料站”获取更多学习资料

一、填一填。（每空 2 分，共 28 分）

1. 6 是（　　）的 2 倍，9 的 3 倍是（　　）。

2. 钟面上 1：00 整，时针与分针组成了（　　）角。5：00 整，时针与分针组成了（　　）角。

3. 在一个算式里，只有加减法或只有乘除法要按（　　）的顺序依次计算。

4. 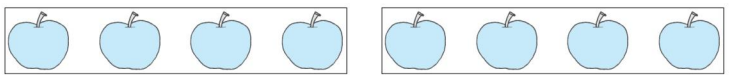

（1）8 个苹果，平均分成了（　　）份，每份（　　）个。

（2）8 个苹果，每（　　）个分成一份，分成了（　　）份。

5. 爷爷的药盒上标注“共 30 粒，每日 2 次，每次 3 粒”，爷爷每天要吃（　　）粒，这盒药够吃（　　）天。

6. 1 只小羊 1 张嘴，2 只眼睛 4 条腿，（　　）只小羊（　　）张嘴，（　　）只眼睛 28 条腿。

二、我会选。（每小题 5 分，共 15 分）

1. 二（1）班有 8 个小组，每个小组 4 人，二（1）班一共有多少人？可列算式是（　　）。

A. 8 + 4　　B. 8 × 4　　C. 4 + 4

2. 下面算式可以改写成乘法算式 4 × 6 的是（　　）。

A. 4 × 5 + 4　　B. 6 + 6 + 6　　C. 4 + 4 + 4 + 4 + 4

3. 一套尺子 2 元钱，一本笔记本 4 元钱，小明带的钱正好够买一本笔记本和 8 套尺子，小明带了（　　）。

A. 16 元　　B. 20 元　　C. 34 元

三、数一数。（每空 2 分，共 16 分）

1. 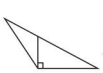 左图中有（　　）个锐角，（　　）个钝角，（　　）个直角。

关注微信公众号“教辅资料站”获取更多学习资料

2.  　  　 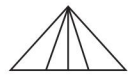

（　　）个正方形　　（　　）个角　　（　　）个三角形

3. 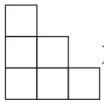 左图中有（　　）个正方形，有（　　）个长方形。

四、把游乐项目填在下图对应的位置上。（8 分）

飞船的东面是游乐大世界，西面是激流勇进，南面是碰碰车，北面是摩天轮。

儿童乐园平面图

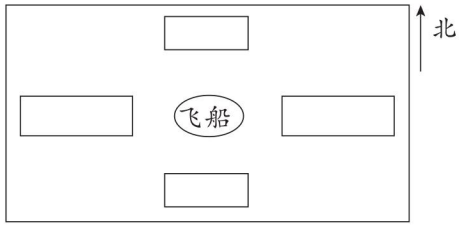

五、看图列式计算。（共 9 分）

1. （4 分） 

□ × □ + □ = □（颗）

□ × □ − □ = □（颗）

2. （5 分） 

若将这些萝卜平均分给 3 只小兔，每只小兔分几根？

□ × □ ÷ □ = □（根）

六、解决问题。（共 24 分）

1. 
公鸡：7只


小鸡：35只


母鸡的只数是公鸡的6倍

（1）公鸡比小鸡少多少只？（6 分）

□ ○ □ = □（只）

（2）母鸡有多少只？（6 分）

□ ○ □ = □（只）

（3）小鸡的只数是公鸡的多少倍？（6 分）

□ ○ □ = □

2. 乐乐和他的 4 个好朋友共种了 20 棵树，平均每人种了几棵树？（6 分）

关注微信公众号“教辅资料站”获取更多学习资料

期末必备考点大盘点

一、乘法的初步认识

求几个相同加数的和，可以用连加的方法计算。

3+3+3=9

加数相同，写成乘法算式比较简便。

加法：4+4+4=12

3个4

乘法：3×4=12

4×3=12

- 求相同加数的和
  - 乘法算式各部分的名称和读法
    - 4 × 3 = 12
    - 因数 乘号 因数 积
    - 读作：4乘3等于12
  - 乘法的意义
    - 有关1和0的乘法
      - 1和任何数相乘都得原数。0和任何数相乘都得0。
      - 1×6=6，0×8=0

二、表内乘法（一）

3×4－1＝11　3×3＋2＝11

12　2　9　2

- 乘加、乘减
  - 乘加、乘减算式中先算乘法，后算加法和减法。
- 2至5的乘法口诀
  - 1只公鸡2条腿，5只公鸡几条腿？
  - 2×5＝10（条）
  - 解决问题
- 注意口诀和算式的区别

一得一				
二得二	二二得四			
三得三	二三得六	三三得九		
四得四	二四得八	三四十二	四四十六	
五得五	二五一十	三五十五	四五二十	五五二十五

三、角的初步认识

- 认识角
  - 角有一个顶点和两条边。
  - 顶点　边　边
- 认识锐角
  - 锐角
  - 比直角小
- 认识钝角
  - 钝角
  - 比直角大
- 认识直角
  - 用三角尺上的直角判断一个角是不是直角。
  - 两者另一边。
  - 顶点对顶点。
  - 一边对一边。
- 直角、锐角和钝角之间的大小关系
  - 锐角＜直角＜钝角。
  - 角的大小与角的两边张开的程度有关，与所画边的长短无关。

四、表内乘法（二）

一六得六	一七得七	一八得八	一九得九	
二六十二	二七十四	二八十六	二九十八	
三六十八	三七二十一	三八二十四	三九二十七	
四六二十四	四七二十八	四八三十二	四九三十六	
五六三十	五七三十五	五八四十	五九四十五	
六六三十六	六七四十二	六八四十八	六九五十四	
	七七四十九	七八五十六	七九六十三	
		八八六十四	八九七十二	
			九九八十一	

- 求一个数的几倍是多少
  - 这个数×倍数＝这个数的几倍
  - ●的个数是▲的2倍。
  - ●有（4）个。
- 乘法竖式
  - 8……因数
  - ×　9……因数
  - 72……积
- 6至9的乘法口诀
  - 几的乘法口诀就有几句，每相邻两句口诀的积就相差几。
  - 如：8的乘法口诀有8句，每相邻两句口诀的积相差8。
  - 8×3=24
  - 3×8=24
  - 口诀是：三八二十四
- 解决问题
  - 一个文具盒9元，买4个文具盒需要多少钱？
  - 9×4=36（元）

五、除法的初步认识

- 平均分的含义
  - 把一些物品分成几份，每份分得同样多叫平均分。
- 除法算式各部分的名称及读法
  - 12　÷　2　=　6
  - 被除数　除号　除数　商
  - 读作：12除以2等于6
- 平均分的方法
  - 把一些物品按分的份数平均分
  - 把一些物品按每几个一份平均分
  - 把12串葡萄平均分给4个小朋友，圈一圈。
- 除法算式的意义
  - 6÷2=3
  - 意义一：6平均分成2份，每份是3。
  - 意义二：6按每2个一份，可以分成3份。
- 有关0的除法
  - 0÷8=0
  - 0除以任何一个不是0的数都得0。

六、认识方向

北

西　东

南

- 认识东、南、西、北
  - 早晨起来，面向太阳，前面是东，后面是西。
  - 面向南方，背对的方向是北方，左面是东方，右面是西方。
  - 借助太阳确认方向或根据一个方向确认其他方向。
- 在平面图上辨认东、南、西、北
  - 北
  - 西←操场→东
  - 南
  - 地图或平面图通常是按“上北下南，左西右东”绘制的。
  - 观测点不同，相对应的物体所在的方向一般也会不同。
  - 找准观测点是关键

七、表内除法

- 求一个数是另一个数的几倍
  - 一个数÷另一个数＝倍数
  - 有12个△，4个○。△的个数是○的几倍？
  - 12÷4=3
- 用乘法口诀求商
  - 求商的方法：
  - 8 ÷ 4 = 2
  - 想：二四得八
  - 用乘法口诀求商时，想除数和几相乘得被除数，商就是几。
  - 借助乘、除法的关系求商：
  - 4×6=24
  - 24÷4=6　24÷6=4
  - 4……商
  - 除数……5）20……被除数
  - 20……5和4的积
  - 0
- 连乘、连除和乘除混合运算
  - 连乘、连除和乘除混合运算都按照从左到右的顺序进行计算。
  - 3×2×4=24
  - 6
  - 6×4÷8=3
  - 24
- 解决问题
  - 20个苹果，每个小朋友分4个，可以分给几个小朋友？
  - 20÷4=5（个）
  - 总数÷每份数=分成的份数
  - 20个苹果，平均分给5个小朋友，每人分得几个苹果？
  - 20÷5=4（个）
  - 总数÷分成的份数=每份数

关注微信公众号“教辅资料站”获取更多学习资料

关注荣德基教育微官网，获取海量学习资源。
荣德基教育微官网：http://www.rongdeji.cn
荣德基天猫旗舰店：http://rongdeji.tmall.com
客服热线：182 1039 5892

图书在版编目（CIP）数据

好卷，QD版，二年级数学，上 / 荣德基主编. —
长春：吉林教育出版社，2012.5（2021.5重印）
ISBN 978-7-5383-8269-3

Ⅰ. ①好… Ⅱ. ①荣… Ⅲ. ①小学数学课—习题集
Ⅳ. ①G624

中国版本图书馆 CIP 数据核字（2012）第 097528 号

好卷·二年级数学上（QD版）

荣德基 主编　　本册主编 高垒垒

责任编辑 朱 林　　封面设计 典点海事
责任审校 刘浩亮

出版 吉林教育出版社（长春市同志街 1991 号 邮编 130021）
发行 吉林教育出版社
印刷 济南鼎业文新印务有限公司

开本 880 毫米×1 240 毫米 1/8 印张 6 字数 98 千字
版次 2012 年 5 月第 1 版
印次 2021 年 5 月第 10 次印刷
定价 34.90 元

如有印装质量问题，请到所购图书销售部门联系调换。

声明 在图书编写过程中，我们参考并引用了部分资料。有部分文字及图片的作者或作品来源，有待确定，联系这些作者及时与我们联系，以便向其支付稿酬。

大卷全程培优　微卷助冲满分





定价：34.90元

二年级 数学 上（QD版）

关注微信公众号"教辅资料站"获取更多学习资料