好卷



主　编：荣德基　　本册主编：刘红建

数学

二年级 下 R版

吉林教育出版社

目录

同步跟踪检测卷

大卷

☆单元检测卷（8套）

第1单元跟踪检测卷 …… 1
第2单元跟踪检测卷 …… 3
第3单元跟踪检测卷 …… （见小卷）
第4单元跟踪检测卷 …… 5
第5单元跟踪检测卷 …… 7
期中检测卷 …… 9
第6单元跟踪检测卷 …… 11
第7单元跟踪检测卷 …… 13
第8单元跟踪检测卷 …… （见小卷）
第9单元跟踪检测卷 …… 15

小卷

☆周测培优卷（10套）

◆数据的收集整理能力检测卷 …… 1
◆表内除法（一）能力检测卷 …… 3
◆图形的运动（一）能力检测卷 …… 5
◆表内除法（二）计算能力检测卷 …… 7
表内除法（二）应用能力检测卷 …… 9
◆混合运算的计算能力检测卷 …… 11
混合运算的应用能力检测卷 …… 13
◆有余数的除法的能力检测卷 …… 15
◆万以内数的认识的能力检测卷 …… 17
◆克和千克的能力检测卷 …… 19

期末复习冲刺卷

大卷

☆模块过关卷（4套）

计算的挑战 …… 17
统计与几何 …… 19
实际应用 …… 21
常考易错题综合 …… 23

☆仿真模拟卷（3套）

期末测试卷 …… 25
杭州市名校期末测试卷 …… 27
黄冈市名校期末测试卷 …… 29
参考答案及点拨 …… 31

小卷

☆方法技能提升卷（4套）

计算的挑战 …… 21
初步的空间想象能力 …… 23
初步的数感 …… 25
有余数的除法应用题 …… 27

☆重难点突破卷（4套）

两步的应用题 …… 29
初步的逻辑推理能力 …… 31
熟练理解万以内的数 …… 33
应用题的综合练习 …… 35
参考答案及点拨 …… 37

好卷　全面测评　环环相扣有抓手　专项突破　重难易错不失分

荣德基　微信公众号　教辅资料站
关注微信公众号“教辅资料站”获取更多学习资料

荣德基 好卷

二年级 数学 下 R版

期末复习冲刺卷 模块过关卷（一）

计算的挑战

时间：60分钟　满分：100分

题号	一	二	三	四	五	总分
得分						

一、填一填。（每空1分，共25分）

1. 计算62－18÷3时，第一步要先算（　　）；计算21÷(3＋4)时，第一步要先算（　　）。

2. 1300－500，可以看作（　　）个百减（　　）个百，得（　　）个百，就是（　　）。

3. 24÷6＝□，口诀：_____；54÷9＝□，口诀：_____。

4. 在（　　）里填上合适的质量单位。



3（　　）



230（　　）



450（　　）



5（　　）

5. 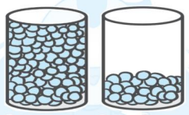左图中，第一杯大约有1000粒豆子，第二杯大约有（　　）粒豆子。（　　）杯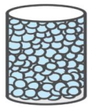大约是10000粒豆子。

6. 比最大的三位数多1的数是（　　），它是（　　）位数。

7. 4千克＝（　　）克　　7000克＝（　　）千克

10000克＝（　　）千克　　1千克＋800克＝（　　）克

8. 卡片上最大能填几？



×3＜19



8×□＜45



52＞7×□

二、辨一辨。（对的在括号里画“√”，错的画“×”。每题1分，共5分）

1. 6024是由6个千、2个百和4个一组成的。（　　）

2. 18张卡片平均分给3个小朋友，每人分得6张，列式是：18÷6＝3。（　　）

3. 8×7÷2与87＋24－9的运算顺序是一样的。（　　）

4. 在算式△÷□＝7……5中，□里最小填8。（　　）

5. 一个五位数，从左边起第四位是千位。（　　）

三、选一选。（把正确答案的序号填在括号里。每题1分，共5分）

1. 如果表示36，那么△表示（　　）。

①36　　②4　　③9

2. 用两个0和两个6组成的四位数中，一个零都不读的数是（　　）。

①6600　　②6060　　③6006

3. 要使4□85＞4485，□里应有（　　）种填法。

①3　　②4　　③5

4. （　　）的得数在820～850之间。

①340＋533　　②937－96　　③620＋255

5. 72减去45的差除以9，算式是（　　）。

①72－45÷9　　②(72－45)÷9　　③72＋45÷9

四、计算挑战。（共39分）

1. 看谁算得又对又快。（每题1分，共12分）

45÷9＝	48÷6＝	340－80＝	350＋70＝
680－600＝	63÷9＝	70÷8＝	28÷7＝
81÷9＝	20÷4＝	23÷7＝	52÷9＝

2. 列竖式计算。（每题2分，共12分）

40÷7＝	57÷8＝	32÷6＝
42÷7＝	60÷8＝	38÷4＝

姓名　学号　班级　学校　密　封　线



荣德基好卷
微信公众号
教辅资料站
关注微信公众号“教辅资料站”获取更多学习资料

3. 计算下面各题。（每题 3 分，共 9 分）

58 − 29 + 35　　45 − 28 ÷ 7　　（27 + 18）÷ 5

4. 在◯里填上“ + ”“ − ”“ × ”或“ ÷ ”。（每题 1 分，共 6 分）

12 ◯ 3 = 4　　8 ◯ 4 = 32　　24 ◯ 4 = 20

3 ◯ 5 = 8　　72 ◯ 8 = 9　　800 ◯ 400 = 1200

五、走进生活，解决问题。（共 26 分）

1. 李明排第 16 个，第几次才能进去？（5 分）



2. 同学们去野营。二（1）班 24 人，二（2）班 30 人，共需要搭多少顶帐篷？（5 分）



3. 小晨准备用一星期（7 天）看完一本 60 页的故事书，第一天看了 12 页，剩下的平均每天看几页？（5 分）

4. 我们要包 5 盘饺子，每盘 8 个。（5 分）



5. 各种水果价目表如下。

			
4 元/500 克	3 元/500 克	12 元/500 克	6 元/500 克

（1）买 1 千克桃子和 1500 克苹果，需要多少钱？（3 分）

（2）你还能提出什么数学问题？并解答。（3 分）

自己说说
老师点评
家长点评
密
封
线

关注微信公众号“教辅资料站”获取更多学习资料

4. 二（1）班2名同学正在统计学校门口10分钟内通过的各种交通工具的数量。

种类	客车	货车	面包车	小轿车
辆数	20	15	35	40

（1）

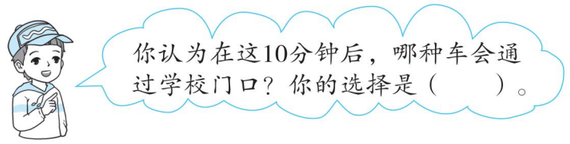

①小轿车　　②面包车　　③都有可能

（2）



①小轿车　　②面包车　　③都有可能

四、下面的图形分别是从哪张纸上剪下来的？请连一连。（8分）



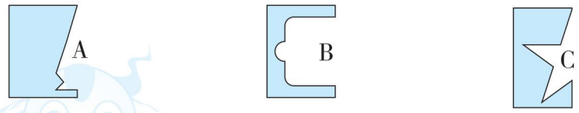

五、走进生活，我会统计。（共30分）

1. 下面是4个同学调查的本班同学的鞋号情况。



（1）把他们统计的结果填入表中。（4分）

鞋码	29码	30码	31码	32码
人数				

（2）穿什么鞋码的同学最多？穿什么鞋码的同学最少？（5分）

（3）马上要进行体操比赛，如果让你去买运动鞋，你会怎么买？为什么？（6分）

2. 下面是二（1）班刘云同学调查的本班同学春游最喜欢去的地方统计表。

地点	动物园	游乐园	植物园
人数	11	21	10

（1）二（1）班一共有多少人？（5分）

（2）你还能提出其他数学问题并解答吗？（5分）

（3）如果让你组织这次春游活动，你有什么好的建议？为什么？（5分）

荣德基好卷
微信公众号
教辅资料站
关注微信公众号“教辅资料站”获取更多学习资料

自己说说　密　老师点评　封　线　家长点评

荣德基 好卷 二年级 数学 下 R版

期末复习冲刺卷 模块过关卷（三）

实际应用

时间：60分钟　满分：100分

题号	一	二	三	四	五	总分
得分						

一、填一填。（第4题6分，其余每空1分，共21分）

1. 2017年7月30日，中国人民解放军建军90周年阅兵在内蒙古朱日和训练基地举行，朱日和基地占地1066平方千米。横线上的数读作（　　），它是由（　　）个千、（　　）个十和（　　）个一组成的。

2. 希望小学有学生803人，其中女生395人，男生大约有（　　）人。

3. 8个花盆，每盆种2棵花，一共种（　　）棵花。8盆花摆成两排，一排摆2盆，另一排摆（　　）盆。

4. 三个小朋友踢毽子，分别踢了30下，45下，26下。



小平踢了（　　）下，小雪踢了（　　）下，小力踢了（　　）下。

5. 28里面有（　　）个4，42里面有（　　）个6，（　　）比7个8少8。

6. 学校举行运动会，要在操场东侧插彩旗。按“三红二绿一黄”的顺序排列，第34面旗子是（　　）色的。

7. 用2、7、0、0组成的最大的四位数是（　　），最小的四位数是（　　）。

8. 有一堆苹果，比30个多，比40个少，分得的份数和每份的个数同样多，这堆苹果有（　　）个。

9. 亮亮折了27只纸鹤，红红比亮亮多折了35只，他俩一共折了（　　）只纸鹤。

二、辨一辨。（对的在括号里画“√”，错的画“×”。每题2分，共10分）

1. 计算24÷6和24÷4用不同的口诀求商。（　　）
2. 24比4个7少多少？正确的算式是24－4×7。（　　）
3. 每份分得同样多，叫平均分。（　　）
4. 500千克大米和500克面粉一样重。（　　）
5. 字母“M”和“F”都是轴对称图形。（　　）

三、选一选。（把正确答案的序号填在括号里。每题2分，共10分）

1. 10000里面有（　　）个100。
①10　②100　③1000

2. 一个四位数，十位上的数比百位上的数多2，千位上的数是百位上的数的3倍，个位上是0。这个数可能是（　　）。
①6210　②6240　③9530

3. 除数是一位数，商是9，余数是8，被除数是（　　）。
①98　②89　③80

4. 一本书，丁丁每天看5页，已经看了6天，还有36页没有看，这本书一共有多少页？正确的列式是（　　）。
①5＋6＋36　②5×6＋36　③36－5×6

5. 如果只买一瓶饮品，第（　　）种最便宜。

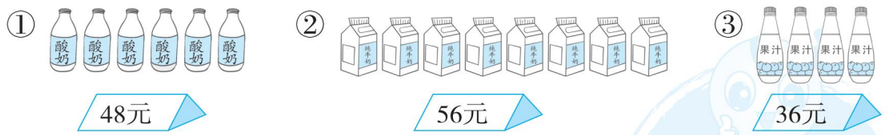

四、计算挑战。（共26分）

1. 看谁算得又对又快。（每题1分，共8分）

20＋300＝　　500＋800＝　　64÷7＝　　42－12÷6＝

18÷6＝　　72÷8＝　　56－36＝　　9×(2＋2)＝

2. 列竖式计算。（每题3分，共9分）

45÷9＝　　70÷8＝　　38÷7＝

姓名　学号　班级　学校　密　封　线

豆点提示：请不要在密封线内答题哦！

荣德基好卷
关注微信公众号“教辅资料站”获取更多学习资料

3. 计算下面各题。（每题 3 分，共 9 分）

74 − 29 + 36　　50 − 30 ÷ 5　　48 ÷ (25 − 19)

五、走进生活，解决问题。（共 33 分）

1. 一本书共 97 页，毛毛已经看了 61 页。（6 分）



2. 4 只青蛙能都跳上去吗？（6 分）



3. 在右边的方格中，每行、每列都有 1 ~ 4 这四个数，并且每个数在每行、每列都只出现一次。B 应该是几？（6 分）

	3		
2			B
4		3	
	1		

4. 手套原来 12 元一双，现在换季促销，4 双 28 元。现在每双多少元？现在每双比原来便宜多少元？（6 分）

5. 25 人去秋游。

（1）如果都坐大车，至少需要几辆大车？（3 分）

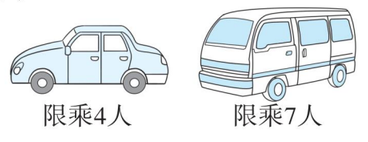

（2）如果都坐小车，至少需要几辆小车？（3 分）

（3）如果想让 25 人全乘坐上车，而且没有空位，那么应该坐（　　）辆大车和（　　）辆小车。（3 分）

荣德基好卷
荣德基好卷
微信公众号
教辅资料站
关注微信公众号“教辅资料站”获取更多学习资料

自己说说
老师点评
家长点评
密 封 线

荣德基 好卷

二年级 数学 下 R版

期末复习冲刺卷 模块过关卷（四）

常考易错题综合

时间：60分钟　满分：100分

题号	一	二	三	四	五	总分
得分						

姓名　学号　密　班级　封　学校　线

豆点提示：请不要在密封线内答题哦！

一、填一填。（第8题6分，其余每空1分，共22分）

1. 2700里面有（　　）个百；10个一千是（　　）。

2. □里最大能填几？

   6□29＜6700　　3672＞□428　　1500＞1□95

3. 在□÷8＝7……□中，被除数最大是（　　），最小是（　　）。

4. 在计算48÷(8－2)时，应先算（　　）法，这道题的结果是（　　）。

5. 在（　　）里填上合适的质量单位。



300（　　）　150（　　）　62（　　）　4（　　）

6. 一根绳子长16米，对折再对折后，每段长（　　）米。

7. 下面的方格中，每行、每列都有1～4这四个数，并且每个数在每行、每列都只出现1次。A是（　　），B是（　　）。

1			2
A	4		
3		B	
		2	C

8. 在○里填上“＞”“＜”或“＝”。

   2485○2458　　1千克○900克　　13－6×2○(13－6)×2

   3600○360　　3060克○4千克　　21÷3×4○40÷5

二、辨一辨。（对的在括号里画“√”，错的画“×”。每题2分，共10分）

1. 1千克铁比1千克棉花重。（　　）
2. 12与36的和里面有几个6？列式为12＋36÷6。（　　）
3. 滑滑梯属于旋转现象。（　　）
4. 田、子、中这三个汉字都是对称的。（　　）
5. 所有的四位数都比三位数大。（　　）

三、选一选。（把正确答案的序号填在括号里。每题2分，共10分）

1. 100张一共是（　　）元。

   ①100　　②1000　　③10000

2. 把18平均分成3份，每份是6，算式是（　　）。

   ①3×6＝18　　②18÷6＝3　　③18÷3＝6

3. 下面属于旋转现象的是（　　）

   ①水车的转动　　②热气球升空　　③电梯上下移动

4. 商是6的算式是（　　）。

   ①2×3　　②1＋5　　③36÷6

5. 以下要想得到左面的图案，应该将正方形纸按（　　）的方式剪掉涂色部分。



四、计算挑战。（共26分）

1. 看谁算得又对又快。（每题1分，共8分）

   300＋500＝　　1300－500＝　　81÷9＝　　63÷9＝

   15÷4＝　　3000－1000＝　　48÷8＝　　56÷7＝

2. 列竖式计算。（每题3分，共9分）

   23÷3＝　　50÷6＝　　67÷9＝

荣德基 微信公众号 教辅资料站 关注微信公众号“教辅资料站”获取更多学习资料

3. 计算下面各题。（每题 3 分，共 9 分）

$27 \div 3 \times 6$　　$16 - 7 \times 2$　　$(14 - 7) \times 9$

五、走进生活，解决问题。（共 32 分）

1. 至少要租多少辆小汽车？（6 分）

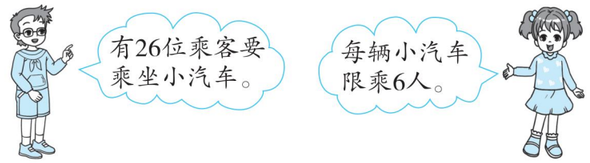

2. 爷爷感冒了，医生给他开了一瓶药。这些药够吃多少天？（6 分）



3. 有一捆 27 米长的绳子，剪下 7 米长做长跳绳，剩下的做 3 米长的短跳绳，最多能做多少根短跳绳？（6 分）

4. 小老鼠偷吃水果，它们三个分别偷吃了哪种水果？（7 分）



5. 下面是公园里动物数量的统计情况。（每个▭表示 1 只动物）



（1）（　　）最多，（　　）最少。（2 分）

（2）猴子比大象多（　　）只。（1 分）

（3）如果每个▭表示 2 只动物，上面的数据各是多少？完成下面的表格。（4 分）

数量	（　　）只	（　　）只	（　　）只	（　　）只

荣德基好卷
微信公众号 教辅资料站
关注微信公众号“教辅资料站”获取更多学习资料
自己说说
老师点评
家长点评
密 封 线

荣德基 好卷

二年级 数学 下 R版

期末复习冲刺卷

期末测试卷

时间：60分钟　满分：100分

题号	一	二	三	四	五	六	七	总分
得分								

姓名　学号　班级　学校

密　封　线

豆点提示：请不要在密封线内答题哦！

一、画一画，写一写。（每题2分，共6分）

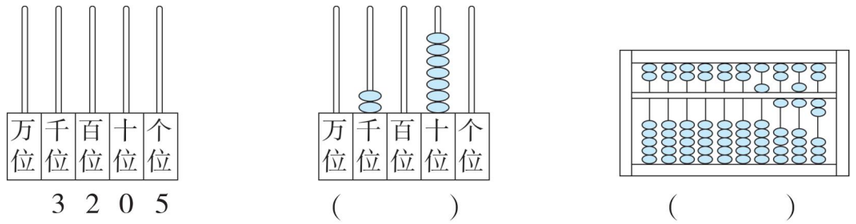

二、填一填。（每空1分，共20分）

1. 数位顺序表右起第一位是（　　）位，万位是右起第（　　）位。
2. 一个数由3个千、4个十和5个一组成，这个数是（　　），读作（　　）。
3. 把一堆花生平均分给4个小朋友，如果有剩余，可能剩（　　）颗。
4. 8998后面的连续3个数是（　　）、（　　）、（　　）。
5. 4000克＝（　　）千克　　9千克＝（　　）克
6. 在4500、2806、7900中，最大的数是（　　），一个零也不读的是（　　），只读一个零的是（　　）。
7. 在抗洪抢险中，某村有34人被困。每条船最多坐5人，至少要准备（　　）条船才能让被困人同时脱险。
8. 在◯里填上“＞”“＜”或“＝”。

6910 ◯ 6901　　946 ◯ 1201　　2000克 ◯ 700千克

1000－300 ◯ 700　　48÷6 ◯ 48÷8　　200千克 ◯ 200克

三、辨一辨。（对的在括号里画“√”，错的画“×”。每题1分，共5分）

1. 28÷6＝4……4读作：28除6等于4余4。（　　）
2. 把6个苹果放在3个盘子里，每个盘子里一定有2个。（　　）
3. 用0、3、0、8四个数字组成一个四位数，最大的四位数是8300。（　　）
4. 推拉窗的开和关是旋转现象。（　　）
5. 最小的三位数和最大的三位数的和是1000。（　　）

四、选一选。（把正确答案的序号填在括号里。每题1分，共5分）

1. 下面图形中，不是轴对称图形的是（　　）

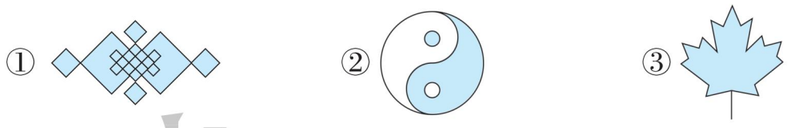

2. 右边的秤最多能称（　　）重的物体。



①5千克　　②3千克　　③500克

3. 下面四个数中，最接近6000的是（　　）。

①5860　　②6150　　③5980

4. 在计算16＋4×5时，要先算（　　）

①4×5　　②16＋4　　③16×5

5. 小莉上二年级，她的体重大约是（　　）

①3千克　　②30千克　　③300克

五、计算挑战。（共30分）

1. 看谁算得又对又快。（每题1分，共12分）

21÷3＝	24÷6＝	36÷6＝	45÷9＝
47÷5＝	58÷8＝	22÷3＝	55÷8＝
250＋300＝	6000＋600＝	700＋280＝	250－50＝

2. 列竖式计算。（每题3分，共9分）

29÷8＝　　44÷5＝　　64÷9＝

3. 计算下面各题。（每题3分，共9分）

81－33＋47　　64－(36＋8)　　(78－69)×4

荣德基 好卷
微信公众号 教辅资料站
关注微信公众号“教辅资料站”获取更多学习资料

六、我会推理。（连一连，6分）

小军的玻璃球比小亮多。小芳的玻璃球比小军少。小亮的玻璃球比小芳多。



七、走进生活，解决问题。（共28分）

1. 停车8小时，付给停车场100元。要找回多少钱？（5分）



2. 程老师和张老师带36名小朋友一起去划船，每条船最多坐4人，至少需要租几条船？（5分）

3. 张一和王丁都是集邮爱好者。张一给王丁几枚后，两人的邮票一样多？（6分）



4. 服装店。

（1）夹克比T恤贵多少钱？（2分）



（2）买一件夹克和一条裤子一共需要多少钱？（2分）

（3）你还能提出其他数学问题并解答吗？（2分）

5. 动物王国举行大选，每个候选人得票情况如下：

（1）根据下面的结果完成统计表。（2分）

熊猫	猴子	兔子	狮子
正	正	丅	正
一	下		正

动物	熊猫	猴子	兔子	狮子
票数				

（2）我认为（　　）应当选为大王。（2分）

（3）小鹿因为有事没参加，如果小鹿也来投票，结果会怎样？（2分）

自己说说

老师点评

家长点评

密 封 线

荣德基好卷
微信公众号
教辅资料站
关注微信公众号“教辅资料站”获取更多学习资料

荣德基 好卷
二年级 数学 下 R版

期末复习冲刺卷

杭州市名校期末测试卷

时间：60分钟　满分：100分

题号	一	二	三	四	五	六	总分
得分							

一、填一填。（每空1分，共27分）

1. 16个气球每4个扎成一束，可以扎成（　　）束；49个苹果，（　　）只刺猬来运，平均每只运7个。
2. □÷5=6……△，△最大是（　　），最小是（　　）。
3. 汽车在笔直的公路上行驶，车身做（　　）运动，车轮做（　　）运动。
4. 四千零四写作（　　），7080读作（　　）。
5. 6999后面紧接着的3个数分别是（　　）、（　　）、（　　）。
6. 根据八九七十二计算的除法算式是（　　）、（　　）。
7. 由9个千，2个十，3个一组成的数是（　　）。
8. 在没有括号的混合运算中，如果是同一级运算，按（　　）的顺序计算，如果既有加减法又有乘除法，应先算（　　），再算（　　）。
9. 在（　）里填上合适的质量单位。



25（　）


250（　　）



900（　）


4（　　）

10. 在○里填入“>”“<”或“=”。

2000克○2千克　　6100克○6千克　　5068○6058

999○1002　　2×6○81÷9　　63÷9○24÷3

二、辨一辨。（对的在括号里画“√”，错的画“×”。每题1分，共5分）

1. 读万以内的数，只要是零都要读。（　　）
2. 用5、0、1、6四张卡片，组成最小的四位数是1560。（　　）
3. 4678中的“6”表示6个百。（　　）
4. 字母“E”和“W”都是轴对称图形。（　　）
5. 50千克大米比500克大米轻。（　　）

三、选一选。（把正确答案的序号填在括号里。每题1分，共5分）

1. 和12÷2÷3的计算结果相同的算式是（　　）。

①12÷2×3　　②12÷(2×3)　　③12×2÷3

2. 2个图钉大约重（　　）。

①1克　　②100克　　③1千克

3. 一组图形的排列顺序是△○□▱△○□▱△……，那么第25个图形是（　　）。

①△　　②○　　③□

4. 你认为下列图形中轴对称图形有（　　）个。

①1

②2

③3

5. 下面哪个算盘上的数读作一万，你的选择是（　　）。

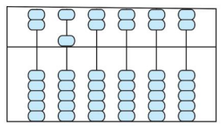
①

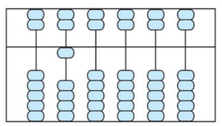
②

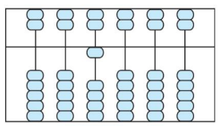
③

四、计算挑战。（共29分）

1. 看谁算得又对又快。（每题1分，共12分）

9×5=	760－700=	40÷8=	1200＋800=
6÷6=	63－9=	7×7=	240－70=
24÷6=	30÷5=	900＋1000=	8÷1=

2. 列竖式计算。（每题2分，共8分）

50÷6=　　78÷8=　　40÷5=　　19÷2=

姓名 学号 班级 学校
密 封 线
豆点提示：请不要在密封线内答题哦！
荣德基 好卷
微信公众号 教辅资料站
关注微信公众号“教辅资料站”获取更多学习资料

3. 计算下面各题。（每题 3 分，共 9 分）

80 − 40 ÷ 5　　3 + 6 × 4　　32 ÷ (65 − 57)

五、动手操作，智慧大脑。（4 分）

下面哪些树叶平移后能与灰色的树叶重合？圈一圈。

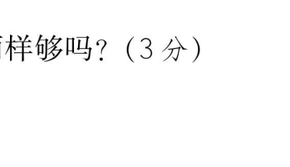

六、走进生活，解决问题。（共 30 分）

1. 二（1）班第一小组一共捐了 27 本故事书和 32 本科技书。可以送给几位小朋友？（6 分）

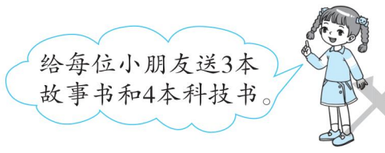

2. 购物。


428元


399元

（1）买一辆自行车和一个电饭煲大约要多少钱？（3 分）

（2）爸爸带 900 元买这两样够吗？（3 分）

3. 某超市水果价格如下表：

水果	苹果	梨	香蕉	石榴
价格	4 元/500 克	3 元/500 克	2 元/500 克	7 元/500 克

（1）买 1 千克苹果和 500 克梨需要多少钱？（3 分）

（2）买 1500 克香蕉和 1500 克石榴需要多少钱？（3 分）

4. 在下面的方格中，每行、每列都有 1 ~ 5 这五个数，并且每个数在每行、每列都只出现一次，把下面的方格填完整。（6 分）

		1		
	5		1	2
		2		4
			4	
1		3		

5. 22 个同学去旅游。

（1）如果全部住大房，至少要多少间？（2 分）



（2）如果全部住小房，至少要多少间？（2 分）

（3）如果大房和小房都住，还可以怎样安排？（2 分）

荣德基好卷
自己说说
老师点评
家长点评
密
封
线
微信公众号
教辅资料站
关注微信公众号“教辅资料站”获取更多学习资料

荣德基 好卷
二年级 数学 下 R版

期末复习冲刺卷

黄冈市名校期末测试卷

时间：60分钟　满分：100分

题号	一	二	三	四	五	总分
得分						

一、填一填。（每题2分，共28分）

1. 收费站昨天通过了8009辆汽车，约是（　　）辆。
2. 一个四位数，它的最高位是（　　）位，从右边起第三位上数字是6，它表示（　　）个（　　）。
3. 9个千、5个十和6个一组成的数是（　　）。
4. 算盘可以用来帮助数数、计数，算盘一个下珠表示（　　），一个上珠表示（　　）。
5. 6月份有30天，有（　　）个星期，还多（　　）天。
6. 7800里面有（　　）个百，25个百是（　　）。
7. 有18支铅笔，插在2个笔筒里，一个笔筒插6支，另一个笔筒插（　　）支。
8. 81里面有（　　）个9，29里面最多有（　　）个9。
9. 一个梨大约重150（　　），2袋盐大约重1（　　）。
10. □÷9=7……□中，余数最大是（　　），这时被除数是（　　）。
11. 钢笔原来9元一支，现在优惠促销，一次买4支28元，促销的钢笔每支（　　）元，每支比原来便宜（　　）元。
12. （　　）×5=30　　（　　）÷3=9
13. 在○里填“>”“<”或“=”。

    5089 ○ 6000　　2800克 ○ 3千克
14. 按从小到大的顺序排列下面各数。

    7008　7080　7800　7089

    （　　）<（　　）<（　　）<（　　）

二、辨一辨。（对的在括号里画“√”，错的画“×”。每题1分，共5分）

1. 从48里连续减8，减6次后结果为0。（　　）
2. 用“正”字来记录数据，一个“正”字表示5个数据。（　　）
3. 53+3×9这道算式要按从左往右的顺序计算。（　　）
4. 512，305，850这三个数中的“5”表示的意义相同。（　　）
5. 读数时，中间有一个0或两个0，只读一个0；末尾有几个0就读几个0。（　　）

三、选一选。（把正确答案的序号填在括号里。每题1分，共5分）

1. 下面的数中，一个零也不读的是（　　）。

   ①4300　②8007　③5609　④7080
2. 下面是几种汽车的标志，在这几个标志图案中是轴对称的图形有（　　）个。

   ①2个　②3个　③4个　④1个
3. 与3999相邻的两个数是（　　）。

   ①3998，4001　②4000，3998　③3997，3998　④3998，4002
4. 钟面上，分针从12旋转到3，经过的时间是（　　）。

   ①3分　②3小时　③15分　④20分
5. 三个同学踢毽子，分别踢了15个、20个、18个，小明踢的个数不是最多的，小红踢的个数也不是最多的，小明比小红踢得多，则（　　）踢了18个。

   ①小红　②小明　③小兰　④没有人

四、计算挑战。（共32分）

1. 看谁算得又对又快。（每题1分，共8分）

   40÷5=　　35−7=　　5×6=　　2000+5000=

   8÷8=　　3×7=　　63÷7=　　48÷6=
2. 列竖式计算。（每题2分，共6分）

   38÷6=　　53÷7=　　100−19=

姓名　学号　班级　学校

密　封　线

豆点提示：
请不要在密封线内答题哦！

荣德基好卷
微信公众号 教辅资料站
关注微信公众号“教辅资料站”获取更多学习资料

3. 计算下面各题。（每题 3 分，共 18 分）

$26+14\div7$　　$23+6\times6$　　$80-34-34$

$81\div(3\times3)$　　$54-(62-34)$　　$18\div2\times3$

五、走进生活，解决问题。（共 30 分）

1. 商店里有苹果 25 个、梨 19 个、哈密瓜 10 个。李叔叔想用 6 个苹果、5 个梨、2 个哈密瓜做成水果礼盒。这些水果最多可以做成多少个这样的水果礼盒？（4 分）

2. 学校原来有 16 个篮球，又买来 8 个篮球。李老师想把这些篮球放在 3 个球筐里，平均每个球筐放几个篮球？（4 分）

3. 小明准备周末练习 50 个毛笔字，已经写了 9 行，每行写了 4 个毛笔字，还要写多少个毛笔字？（4 分）

4. 星期天，29 个同学去公园划船。一条大船只能坐 6 人，一条小船只能坐 4 人。如果都坐大船，至少要几条？如果都坐小船，至少要几条？（4 分）

5. 一场篮球赛分为上半场和下半场，二（1）班上半场得了 24 分，全场总分是 42 分。上半场两个班的得分一样多，二（2）班的全场总分是 38 分，二（2）班下半场得了多少分？（4 分）

6. 你会统计下面的图形吗？

（1）先用画“正”字法统计。（4 分）

△ _____ 个

□ _____ 个

○ _____ 个

▭ _____ 个



（2）再根据统计结果，制作成统计表。（4 分）

图形	三角形	正方形	圆形	长方形
个数				

（3）根据统计表，回答问题。（2 分）

①三角形的个数是用 3 个“正”字记录的，求三角形的个数用到的乘法算式是（　　）。（1 分）

②上面的长方形每个小朋友分 4 个，可以分给（　　）个小朋友。（1 分）

荣德基好卷　微信公众号　教辅资料站
关注微信公众号“教辅资料站”获取更多学习资料
自己说说　老师点评　家长点评　密　封　线

荣德基 好卷

参考答案及点拨

二年级 数学 下 R版 （大卷）

第 1 单元跟踪检测卷

数据收集整理

一、1.（1）游泳　钢琴　（2）6　钢琴

2.（1）苹果　梨　（2）38　（3）苹果

3.（1）文文　明明　（2）1　1　文文

（3）可能

4.（1）小轿车　9　（2）31　（3）48

二、1.（1）

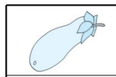	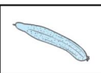		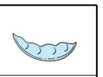
√ √ √ √ √ √ √	正 正	正 正 丁	○○○○ ○○

（统计方法不唯一）

（2）西红柿　豆角　（3）5

（4）茄子和西红柿共有多少个？

7 + 12 = 19（个）

口答：茄子和西红柿共有 19 个。

2.

图形				
个数	6	7	6	4

（2）① 23　②    

③△比○多 3 个。（答案不唯一）

3.

姓名	龙龙	元元	兰兰	刚刚
票数	5	7	9	3

（2）兰兰　刚刚　（3）兰兰

（4）**口答：**如果王芳也投了票，结果不变。因为不论她的票投给谁，兰兰的票数都是最多的。

【点拨】如果王芳投给第二名的元元，7 + 1 = 8（票），8 还是小于 9，所以兰兰的票数还是最多。

4.

品牌	甲品牌	乙品牌	丙品牌	丁品牌
台数	12	18	14	9

（2）5

（3）**口答：**建议多进些乙品牌学习机。（答案不唯一）

5.（1）春　冬

（2）16 + 9 = 25（人）

25 + 12 = 37（人）

37 + 7 = 44（人）

口答：这个班一共有 44 人。

（3）12 − 7 = 5（人）

口答：喜欢冬季的同学比喜欢秋季的少 5 人。

（4）**口答：**如果组织同学们游玩，最好应安排在春季。（答案不唯一）

6.（1）踢球　套圈　（2）4

（3）**口答：**最有可能参加踢球活动。

【点拨】是“最有可能”的情况，而不是“一定”的情况。

（4）

活动	跳绳	踢球	套圈	踢毽子
人数	12	18	4	10

【点拨】原来  表示 1 个同学，而现在  表示 2 个同学，说明现在活动的人数是原来各活动人数的 2 倍。

第 2 单元跟踪检测卷

表内除法（一）

一、1. 24　4　6

2. 12　除数　4　三四十二

3. 5　4. 30 ÷ 5 = 6　30 ÷ 6 = 5

5. 3　15 ÷ 5 = 3

6. 12　5　【点拨】一只小鸟有 2 条腿，一只青蛙有 4 条腿。

7.（1）15　（2）5

二、1. ×　2. √　3. ×　4. ×　5. ×

三、1. ③　2. ②　3. ②　4. ③　5. ②

四、1. 12　6　9　2　4　35　3　3　15　1　1　5

2. −　+　÷　−　×　−　÷　+

3. 4　8　4　25　1　4

五、1. 12 ÷ 3 = 4　2. 12 ÷ 2 = 6

六、1. 18 ÷ 6 = 3（次）　18 ÷ 3 = 6（个）

2.（1）6 × 2 = 12（条）

口答：2 盘一共有 12 条鱼。

（2）12 ÷ 3 = 4（条）

口答：每只小猫分得 4 条鱼。

3. 3 + 1 = 4（个）　12 ÷ 4 = 3（支）

口答：平均每个小朋友分 3 支棒棒糖。

【点拨】不要用 12 ÷ 3，因为豆豆和她的 3 个好朋友一共是 4 个小朋友。

4.（1）10 ÷ 2 = 5（个）

口答：一共可以挂 5 个大门。

（2）10 − 2 = 8（个）

口答：还剩 8 个。

5.（1）24 ÷ 6 = 4（辆）

口答：需要租 4 辆。

（2）24 ÷ 4 = 6（辆）

口答：需要租 6 辆。

第 4 单元跟踪检测卷

表内除法（二）

一、1. 1　8 ÷ 8 = 1　2. 8　27　3. 8　9

4. 8　八九七十二　72 ÷ 8 = 9

5. 36　9 × 4 = 36（架）

6　36 ÷ 6 = 6（组）

【点拨】注意带上单位。

6. 8　7　7. 9　9

8. >　<　<　>　<　=

二、1. ×　2. ×　3. ×　4. ×　5. √

三、1. ③　2. ②　3. ③　4. ③　5. ①

四、1. 9　48　40　72　8　9　55　12　40　9　16　7

2. 4　81　14　2　5（第 3 道题答案不唯一）

3. −　×　÷　+　÷　×　÷　+

4. 36 ÷ 4　72 ÷ 9　35 ÷ 5　42 ÷ 7　45 ÷ 9

五、1.（1）36 ÷ 9 = 4（组）

口答：可以分成 4 组。

（2）36 ÷ 6 = 6（人）

口答：每组有 6 人。

2. 36 ÷ 4 = 9（元）　10 − 9 = 1（元）

口答：香瓜子现在每袋 9 元，现在每袋比原来便宜 1 元。

3. 42 ÷ 6 = 7（件）　56 ÷ 8 = 7（件）

口答：这些花能做 7 件标本，这些树叶能做 7 件标本。

4.（1）4 × 6 = 24（元）

口答：一共花了 24 元钱。

（2）24 ÷ 8 = 3（份）

口答：能买 3 份。

5.（1）6 × 8 = 48（元）

口答：一件上衣 48 元钱。

（2）36 ÷ 9 = 4（元）

口答：一支牙膏 4 元钱。

（3）买一双鞋的钱可以买多少条围巾？

36 ÷ 6 = 6（条）

口答：可以买 6 条围巾。

【点拨】题目是要求提出用乘法或除法解决的问题，而不能提出用加法或减法解决的问题。此问答案不唯一。

第 5 单元跟踪检测卷

混合运算

一、1. 括号里　2. 减　加

3. 乘　加　21　【点拨】加法在前、乘法在后，有的同学往往先算加法，是错误的。

4. 9　5. <　=　>　6. 31　7. 9

8. 小兔子兄弟一共采了多少个蘑菇（42 + 30）

一共可以装几篮（72 ÷ 9）

（42 + 30）÷ 9 = 8（篮）

二、1. ×　2. ×　3. √　4. √　5. √

三、1. ②　2. ②　3. ②　4. ③

5. ③　【点拨】如果只买 6 本书，不能优惠，列式是 6 × 8 = 48（元）；如果买 8 本书，可以优惠，每本 8 − 2 = 6（元），6 × 8 = 48（元）。用同样多的钱，肯定买 8 本更实惠。

四、1.　5 + 3 × 8　　36 − 24 ÷ 6

= 5 + 24　　= 36 − 4

= 29　　= 32

42 − 18 + 12　　5 × （28 ÷ 7）

= 24 + 12　　= 5 × 4

= 36　　= 20

4 × 6 ÷ 3　　54 −（62 − 57）

= 24 ÷ 3　　= 54 − 5

= 8　　= 49

2. 28　4　（60 − 32）÷ 7 = 4　8　48　6 ×（64 ÷ 8）= 48

五、1. 42 + 4 × 6 = 66（元）

2.（56 − 24）÷ 8 = 4（袋）

六、1.（27 + 29）÷ 8 = 7（人）

口答：平均每行 7 人。

2. 8 ×（8 − 6）= 16（元）

口答：小丽比小林多花 16 元钱。

【点拨】另一种方法是 8 × 8 − 8 × 6，但 8 ×（8 − 6）这种方法要简便和灵活些。

3.（24 − 6）÷ 2 = 9（元）

口答：成人票一张 9 元钱。

4.（1）（50 − 29）÷ 7 = 3（双）

口答：买了一架玩具摩托车后还可以买 3 双袜子。

荣德基 好卷 教辅资料站 关注微信公众号“教辅资料站”获取更多学习资料

（2）3×9+24=51（元）

口答：一共花了51元钱。

（3）买5双袜子和一顶帽子共花多少钱？

5×7+9=44（元）

口答：买5双袜子和一顶帽子共花44元钱。

【点拨】第（3）问答案不唯一。

期中检测卷

一、1. 4　48　2. 42÷6=7　42÷7=6

3. 旋转　平移　4. 除　减

5. －　×　÷　+

6. 10　6　7　【点拨】先求出已知算式的结果，再求出括号里的未知数。

7. 7　5

8. 中、田（答案不唯一）　9. 36　4

二、1. ×　2. ×　3. √　4. √　5. ×

三、1. ②　2. ①　3. ②　4. ②　5. ②

四、1. 10　18　30　6　8　5　9　0　9　1　36　2

2.

6+3×9	(42+14)÷7
=6+27	=56÷7
=33	=8
2×9÷3	65－30÷5
=18÷3	=65－6
=6	=59
76－(28+19)	72÷8÷3
=76－47	=9÷3
=29	=3

3. 6　54　9×(54－48)=54　9　70　81÷9+61=70

五、1. 4×(6+8)=56（袋）

口答：一共运了56袋粮食。

2. 62－(56－39)=45（分）

口答：第二轮二（2）班得了45分。

3. 8－3=5（人）　2×8+5=21（人）

口答：一共有21人。

4.（1）6×9+8=62（元）

口答：一共需要62元钱。

（2）32÷8=4（个）

口答：能刚好买玩具汽车，能买4个。

（3）6个皮球多少元钱？

6×7=42（元）

口答：6个皮球42元钱。

【点拨】第（3）问答案不唯一。

5.（1）17　11　3

（2）17+11+3=31（天）

口答：这个月共有31天，这个月属于冬季。

第6单元跟踪检测卷

有余数的除法

一、1. 圈一圈略。　12÷5=2（组）……2（个）

16÷6=2（组）……4（个）

2. 5　5　3. 2　8　4. 8　5. 6　4

6. 8　71　【点拨】除数比余数大，余数是7，除数最小是8，求被除数，用商×除数+余数。

7. 5　9　6　5　7　7

二、1. ×　2. √　3. √　4. ×　5. ×

三、1. ③　2. ②　3. ③

4. ②　【点拨】共有4个小朋友，欢欢报的数除以4余数一定是1。

5. ③

四、1. 3……3　6……2　8……2　7……3　5……1　7……1

2. 27÷6=4……3　　60÷8=7……4

$$\begin{array}{r} 4 \\ 6\overline{)27} \\ \underline{24} \\ 3 \end{array}$$

$$\begin{array}{r} 7 \\ 8\overline{)60} \\ \underline{56} \\ 4 \end{array}$$

83÷9=9……2　　47÷5=9……2

$$\begin{array}{r} 9 \\ 9\overline{)83} \\ \underline{81} \\ 2 \end{array}$$

$$\begin{array}{r} 9 \\ 5\overline{)47} \\ \underline{45} \\ 2 \end{array}$$

29÷9=3……2　　24÷7=3……3

$$\begin{array}{r} 3 \\ 9\overline{)29} \\ \underline{27} \\ 2 \end{array}$$

$$\begin{array}{r} 3 \\ 7\overline{)24} \\ \underline{21} \\ 3 \end{array}$$

五、1. 19÷3=6（组）……1（盆）

口答：第19盆是红颜色的花。

2. 47÷6=7（架）……5（人）

口答：最多可以做7架飞机模型。

3. 19－8=11（只）

11÷3=3（辆）……2（只）

3+1=4（辆）

口答：至少需要4辆小汽车。

【点拨】坐3辆小汽车后，还有2只小动物没上车，说明剩下的2只小动物还需要1辆小汽车。

4. 32÷4=8（个）

22÷5=4（个）……2（个）

19÷2=9（个）……1（个）

4<8<9

口答：这些水果最多可以装成4个水果篮。

5.（1）37÷4=9（辆）……1（人）

口答：最多可以坐满9辆车，会有剩余1人。

（2）37÷9=4（辆）……1（人）

4+1=5（辆）

口答：至少要租5辆。

（3）9×1+4×7=37（人）

口答：可以租1辆面包车和7辆小汽车。

【点拨】第（3）问答案不唯一。

第7单元跟踪检测卷

万以内数的认识

一、3020　三千零二十　5126　五千一百二十六　3500　三千五百　2602　二千六百零二

二、1. 一百　一百　一万

2. 5　1

3. 10000　100　10　4. 7　6　9

5.（1）3　（2）2　（3）2

6. 5600　78　7. 8620　2068

8. 六千三百九十七　9008

三、1. ×　2. √　3. ×　4. ×　5. ×

四、1. ②　2. ①　3. ①　4. ③　5. ③

五、1. 3000　500　900　60　3000　1300　3700　4900　1500　1500　6100　2900

2. 0　8或9　9　0或1　9　0

3. >　<　>　=

六、1. 南京路小学　朝阳小学　希望小学

2. 300+280=580（个）　580<600

口答：剩下的气球不够。

3. 200+270=470（元）

470－400=70（元）

口答：明明剩下的钱不够，明明至少还要积攒70元钱。

4.（1）180+290+370+300=1140（人）

1140>600

口答：一至四年级所有同学不能同一场次看话剧。

（2）370+180=550（人）

300+290=590（人）

口答：一年级和三年级一起看，二年级和四年级一起看。

【点拨】遇到此类题，要学会最大数搭配最小数。

5.（1）1204≈1000　6028≈6000　3915≈4000

口答：游玩的人数各接近1000人、6000人、4000人。

（2）6000－1000=5000（人）

口答：游玩人数最多的比最少的大约多5000人。

第9单元跟踪检测卷

数学广角——推理

一、1. 三　二　一

2. 0　9　5　【点拨】先推理出唯一的情况，再从两种情况中推出唯一的情况。

3. 文文　乐乐　聪聪　欢欢

4. 三角形　圆　正方形

5. ①　②　③

二、1. ③　2. ③　3. ③　4. ③　5. ①

三、1.



2.

3 7	4 5	9 2	9 4
+5 4	+1 7	－3 8	－3 8
9 1	6 2	5 4	5 6

【点拨】第3个和第4个答案不唯一。

3. ×　×　√　×　√　×　√　×　×　语文　英语　数学

四、1. 黑兔　白兔　灰兔　萝卜　白菜　南瓜

口答：黑兔种白菜，白兔种萝卜，灰兔种南瓜。

2. 方方的爸爸　林林的爸爸　天天的爸爸　工人　解放军　医生

口答：方方的爸爸是医生，林林的爸爸是工人，天天的爸爸是解放军。

3.

祖	爱	国	热
爱	祖	热	国
热	国	爱	祖
国	热	祖	爱

关注微信公众号“教辅资料站”获取更多学习资料

期末复习冲刺卷

模块过关卷（一）　计算的挑战

一、1. 18 ÷ 3 = 6　3 + 4 = 7

2. 13　5　8　800

3. 4　四六二十四　6　六九五十四

4. 千克　克　克　千克

5. 300　【点拨】答案不唯一，估成 200 ~ 400 粒都可以。

10

6. 1000　四

7. 4000　7　10　1800

8. 6　5　7

二、1. ×　2. ×　3. √　4. ×　5. ×

三、1. ③　2. ①

3. ③　【点拨】除了百位，两个数其余数位上的数都一样，有 5、6、7、8、9 比 4 大，所以有 5 种填法。

4. ②　5. ②

四、1. 5　8　260　420　80　7　8……6　4　9　5　3……2　5……7

2. 40 ÷ 7 = 5……5　　57 ÷ 8 = 7……1

$$\begin{array}{r} 5 \\ 7\overline{)40} \\ \underline{35} \\ 5 \end{array}$$

$$\begin{array}{r} 7 \\ 8\overline{)57} \\ \underline{56} \\ 1 \end{array}$$

32 ÷ 6 = 5……2　　42 ÷ 7 = 6

$$\begin{array}{r} 5 \\ 6\overline{)32} \\ \underline{30} \\ 2 \end{array}$$

$$\begin{array}{r} 6 \\ 7\overline{)42} \\ \underline{42} \\ 0 \end{array}$$

60 ÷ 8 = 7……4　　38 ÷ 4 = 9……2

$$\begin{array}{r} 7 \\ 8\overline{)60} \\ \underline{56} \\ 4 \end{array}$$

$$\begin{array}{r} 9 \\ 4\overline{)38} \\ \underline{36} \\ 2 \end{array}$$

3. 58 − 29 + 35　　45 − 28 ÷ 7

= 29 + 35　　= 45 − 4

= 64　　= 41

(27 + 18) ÷ 5

= 45 ÷ 5

= 9

4. ÷　×　−　+　÷　+

五、1. 16 ÷ 4 = 4（次）

口答：第 4 次才能进去。

2. 24 + 30 = 54（人）　54 ÷ 6 = 9（顶）

口答：共需要搭 9 顶帐篷。

3. 60 − 12 = 48（页）

7 − 1 = 6（天）

48 ÷ 6 = 8（页）

口答：剩下的平均每天看 8 页。

【点拨】因为花了一天看了 12 页，因此剩下的还有 7 − 1 = 6（天）。

4. 5 × 8 − 35 = 5（个）　**口答：**还要包 5 个。

5. （1）500 + 500 = 1000（克）

1000 克 = 1 千克

500 + 500 + 500 = 1500（克）

2 × 6 + 3 × 4 = 24（元）

口答：需要 24 元。

（2）买 1 千克葡萄要多少钱？

12 + 12 = 24（元）

口答：买 1 千克葡萄要 24 元。（答案不唯一）

模块过关卷（二）　统计与几何

一、1. 旋转　平移　平移　平移　平移　旋转　平移　旋转

2. √　×　√　√　×

3. 平移　旋转　平移

4. 8　台灯　中　A　五角星

5. （1）12　15　（2）34　（3）5　（4）秋　夏

二、1. ×　2. √　3. √　4. √　5. √

三、1. ②　2. ①　3. ①

4. （1）③　（2）①

四、

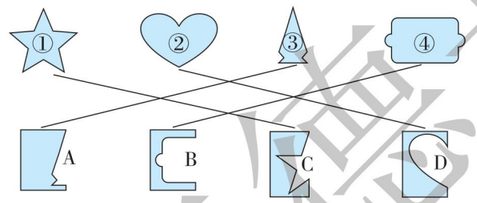

五、1. （1）4　13　14　3

（2）**口答：**穿 31 码的同学最多，穿 32 码的同学最少。

（3）**口答：**根据数据买相应鞋码的运动鞋，因为每个人脚的大小不一样。

2. （1）11 + 21 + 10 = 42（人）

口答：二（1）班一共有 42 人。

（2）最喜欢去动物园和游乐园的人数比去植物园的多多少人？

11 + 21 − 10 = 22（人）

口答：最喜欢去动物园和游乐园的人数比去植物园的多 22 人。（答案不唯一）

（3）建议组织同学们去游乐园进行春游活动。因为最喜欢去游乐园的人最多。（答案不唯一）

模块过关卷（三）　实际应用

一、1. 一千零六十六　1　6　6

2. 400　3. 16　6

4. 30　26　45　【点拨】本题要将数的大小关系与推理相结合进行解题。

5. 7　7　48　6. 绿

7. 7200　2007

8. 36　9. 89

二、1. ×　2. ×　3. √　4. ×　5. ×

三、1. ②　2. ②　3. ②　4. ②　5. ②

四、1. 320　1300　9……1　40　3　9　20　36

2. 45 ÷ 9 = 5　　70 ÷ 8 = 8……6

$$\begin{array}{r} 5 \\ 9\overline{)45} \\ \underline{45} \\ 0 \end{array}$$

$$\begin{array}{r} 8 \\ 8\overline{)70} \\ \underline{64} \\ 6 \end{array}$$

38 ÷ 7 = 5……3

$$\begin{array}{r} 5 \\ 7\overline{)38} \\ \underline{35} \\ 3 \end{array}$$

3. 74 − 29 + 36　　50 − 30 ÷ 5

= 45 + 36　　= 50 − 6

= 81　　= 44

48 ÷ (25 − 19)

= 48 ÷ 6

= 8

五、1. (97 − 61) ÷ 4 = 9（页）

口答：平均每天看 9 页。

2. 300 + 300 = 600（克）

600 + 600 = 1200（克）

1200 克 > 1 千克

口答：4 只青蛙不能都跳上去。

3. **口答：**B 应该是 3。

4. 28 ÷ 4 = 7（元）

12 − 7 = 5（元）

口答：现在每双 7 元，现在每双比原来便宜 5 元。

5. （1）25 ÷ 7 = 3（辆）……4（人）

3 + 1 = 4（辆）

口答：至少需要 4 辆大车。

（2）25 ÷ 4 = 6（辆）……1（人）

6 + 1 = 7（辆）

口答：至少需要 7 辆小车。

（3）3　1　【点拨】因为 7 × 3 + 4 × 1 = 25（人），所以坐 3 辆大车和 1 辆小车刚好合适，没有空位。

模块过关卷（四）　常考易错题综合

一、1. 27　10000　2. 6　3　4

3. 63　57　4. 减　8

5. 克　千克　千克　千克

6. 4　【点拨】对折再对折就把这根绳子平均分成了 4 段。

7. 2　1

8. >　>　<　>　<　>

二、1. ×　2. ×　3. ×　4. ×　5. √

三、1. ③　2. ③　3. ①　4. ③　5. ①

四、1. 800　800　9　7　3……3　2000　6　8

2. 23 ÷ 3 = 7……2　　50 ÷ 6 = 8……2

$$\begin{array}{r} 7 \\ 3\overline{)23} \\ \underline{21} \\ 2 \end{array}$$

$$\begin{array}{r} 8 \\ 6\overline{)50} \\ \underline{48} \\ 2 \end{array}$$

67 ÷ 9 = 7……4

$$\begin{array}{r} 7 \\ 9\overline{)67} \\ \underline{63} \\ 4 \end{array}$$

3. 27 ÷ 3 × 6　　16 − 7 × 2

= 9 × 6　　= 16 − 14

= 54　　= 2

(14 − 7) × 9

= 7 × 9

= 63

五、1. 26 ÷ 6 = 4（辆）……2（人）

4 + 1 = 5（辆）

口答：至少要租 5 辆小汽车。

2. 3 × 3 = 9（片）　54 ÷ 9 = 6（天）

口答：这些药够吃 6 天。

3. 27 − 7 = 20（米）

20 ÷ 3 = 6（根）……2（米）

口答：最多能做 6 根短跳绳。

【点拨】剩下的 2 米不能做一根短跳绳，因此商不用加 1。

4. **口答：**小灰偷吃的是梨，小黑偷吃的是苹果，小白偷吃的是桃子。

5. （1）猴子　大象　（2）7

（3）4　18　8　12

关注微信公众号“教辅资料站”获取更多学习资料

期末测试卷

一、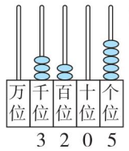

2070　5162

二、1. 个　五　2. 3045　三千零四十五

3. 1～3　【点拨】余数比除数小。

4. 8999　9000　9001

5. 4　9000　6. 7900　4500、7900　2806

7. 7　8. ＞　＜　＜　＝　＞　＞

三、1. ×　2. ×　3. √　4. ×　5. ×

四、1. ②　2. ①　3. ③　4. ①　5. ②

五、1. 7　4　6　5　9……2　7……2　7……1

6……7　550　6600　980　200

2. $29\div8=3\cdots\cdots5$　　$44\div5=8\cdots\cdots4$

$$\begin{array}{r}3\\8\overline{)29}\\\underline{24}\\5\end{array}\qquad\begin{array}{r}8\\5\overline{)44}\\\underline{40}\\4\end{array}$$

$64\div9=7\cdots\cdots1$

$$\begin{array}{r}7\\9\overline{)64}\\\underline{63}\\1\end{array}$$

3. $81-33+47$　　$64-(36+8)$

$=48+47$　　$=64-44$

$=95$　　$=20$

$(78-69)\times4$

$=9\times4$

$=36$

六、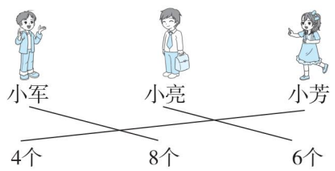

七、1. $4\times8=32$（元）　$100-32=68$（元）

口答：要找回 68 元。

【点拨】先要求出停车 8 小时一共收费多少元。

2. $36+2=38$（人）

$38\div4=9$（条）……2（人）

$9+1=10$（条）

口答：至少需要租 10 条船。

3. $98-80=18$（枚）

$18\div2=9$（枚）

口答：张一给王丁 9 枚后，两人的邮票一样多。

4. （1）$1100-300=800$（元）

口答：夹克比 T 恤贵 800 元。

（2）$1100+200=1300$（元）

口答：买一件夹克和一条裤子一共需要 1300 元。

（3）问：一条裙子比一件 T 恤贵多少钱？

$500-300=200$（元）

口答：一条裙子比一件 T 恤贵 200 元。（答案不唯一）

5. （1）6　8　2　10

（2）狮子

（3）**口答：**如果小鹿也来投票，也不能影响狮子选为大王的结果。

【点拨】小鹿这一票不管投给谁，都无法比狮子的 10 票还要多。

杭州市名校期末测试卷

一、1. 4　7　2. 4　1

3. 平移　旋转

4. 4004　七千零八十

5. 7000　7001　7002

6. $72\div8=9$　$72\div9=8$

7. 9023　8. 从左往右　乘除法　加减法

9. 千克　克　克　千克

10. ＝　＞　＜　＜　＞　＜

二、1. ×　2. ×　3. √　4. √　5. ×

三、1. ②　2. ①　3. ①　4. ②　5. ②

四、1. 45　60　5　2000　1　54　49　170

4　6　1900　8

2. $50\div6=8\cdots\cdots2$　　$78\div8=9\cdots\cdots6$

$$\begin{array}{r}8\\6\overline{)50}\\\underline{48}\\2\end{array}\qquad\begin{array}{r}9\\8\overline{)78}\\\underline{72}\\6\end{array}$$

$40\div5=8$　　$19\div2=9\cdots\cdots1$

$$\begin{array}{r}8\\5\overline{)40}\\\underline{40}\\0\end{array}\qquad\begin{array}{r}9\\2\overline{)19}\\\underline{18}\\1\end{array}$$

3. $80-40\div5$　　$3+6\times4$

$=80-8$　　$=3+24$

$=72$　　$=27$

$32\div(65-57)$

$=32\div8$

$=4$

五、略

六、1. $27\div3=9$（位）

$32\div4=8$（位）

$8<9$　**口答：**可以送给 8 位小朋友。

2. （1）$428\approx400$　$399\approx400$

$428+399\approx800$（元）

口答：买一辆自行车和一个电饭煲大约要 800 元钱。

（2）$428<500$　$399<400$

$428+399<900$

口答：爸爸带 900 元买这两样够。

【点拨】此题可以用估算方法来解决。

3. （1）1 千克 = 1000 克

1000 克 = 500 克 + 500 克

$2\times4+3=11$（元）

口答：买 1 千克苹果和 500 克梨需要 11 元。

（2）1500 克 = 500 克 + 500 克 + 500 克

$3\times(2+7)=27$（元）

口答：买 1500 克香蕉和 1500 克石榴需要 27 元。

4.

4	2	1	5	3
3	5	4	1	2
5	1	2	3	4
2	3	5	4	1
1	4	3	2	5

5. （1）$22\div4=5$（间）……2（人）

$5+1=6$（间）

口答：至少要 6 间。

（2）$22\div3=7$（间）……1（人）

$7+1=8$（间）

口答：至少要 8 间。

（3）$3\times6+4=22$（人）

口答：可以安排 6 间小房和 1 间大房。（答案不唯一）

【点拨】可以按顺序去思考，如果住一间大房，还剩下 $22-4=18$（人），刚好安排 6 间小房。

黄冈市名校期末测试卷

一、1. 8000　2. 千　6　百　3. 9056

4. 1　5　5. 4　2　6. 78　2500　7. 12

8. 9　3　9. 克　千克　10. 8　71

11. 7　2　【点拨】列式是 $9-7=2$（元）。

12. 6　27　【点拨】求被除数用乘法，被除数 = 商 × 除数。

13. ＜　＜

14. 7008　7080　7089　7800

二、1. √　2. √　3. ×　4. ×　5. ×

三、1. ①　2. ②　3. ②　4. ③　5. ②

四、1. 8　28　30　7000　1　21　9　8

2. $38\div6=6\cdots\cdots2$　　$53\div7=7\cdots\cdots4$

$$\begin{array}{r}6\\6\overline{)38}\\\underline{36}\\2\end{array}\qquad\begin{array}{r}7\\7\overline{)53}\\\underline{49}\\4\end{array}$$

$100-19=81$

$$\begin{array}{r}100\\-\ 19\\\hline81\end{array}$$

3. $26+14\div7$　　$23+6\times6$

$=26+2$　　$=23+36$

$=28$　　$=59$

$80-34-34$　　$81\div(3\times3)$

$=46-34$　　$=81\div9$

$=12$　　$=9$

$54-(62-34)$　　$18\div2\times3$

$=54-28$　　$=9\times3$

$=26$　　$=27$

五、1. $25\div6=4$（个）……1（个）

$19\div5=3$（个）……4（个）

$10\div2=5$（个）　$3<4<5$

口答：这些水果最多可以做成 3 个这样的水果礼盒。

2. $(16+8)\div3=8$（个）

口答：平均每个球筐放 8 个篮球。

3. $50-9\times4=14$（个）

口答：还要写 14 个毛笔字。

4. $29\div6=4$（条）……5（人）

$4+1=5$（条）

口答：至少要 5 条大船。

$29\div4=7$（条）……1（人）

$7+1=8$（条）

口答：至少要 8 条小船。

5. $38-24=14$（分）

口答：二（2）班下半场得了 14 分。

【点拨】上半场两个班的得分一样多，说明二（2）班上半场也得了 24 分。题目中二（1）班全场总分是 42 分是多余条件。

6. （1）△ 正正正 个　□ 正一 个

○ 正丌 个　▭ 正正丁 个

（2）15　6　9　12

（3）①$3\times5=15$（个）　②3

果德堂
微信公众号
教辅资料站
关注微信公众号“教辅资料站”获取更多学习资料

好卷

小卷

- 周测培优卷（10套）
- 方法技能提升卷（4套）
- 重难点突破卷（4套）



二年级 数学

下（R版）

关注微信公众号“教辅资料站”获取更多学习资料



目录

周测培优卷

数据的收集整理能力检测卷 …… 1

表内除法(一)能力检测卷 …… 3

图形的运动(一)能力检测卷 …… 5

表内除法(二)计算能力检测卷 …… 7

表内除法(二)应用能力检测卷 …… 9

混合运算的计算能力检测卷 …… 11

混合运算的应用能力检测卷 …… 13

有余数的除法的能力检测卷 …… 15

万以内数的认识的能力检测卷 …… 17

克和千克的能力检测卷 …… 19

方法技能提升卷

计算的挑战 …… 21

初步的空间想象能力 …… 23

初步的数感 …… 25

有余数的除法应用题 …… 27

重难点突破卷

两步的应用题 …… 29

初步的逻辑推理能力 …… 31

熟练理解万以内的数 …… 33

应用题的综合练习 …… 35

参考答案及点拨 …… 37

荣德基好卷

关注微信公众号“教辅资料站”获取更多学习资料

方法技能提升卷1 计算的挑战

班级_____ 姓名_____ 得分_____ 时间：40分钟 满分：100分

一、我会填。（每题4分，共20分）

1. 一万里面有（　　）个千，有（　　）个百。

2. 写出两道除数是7的除法算式：（　　）、（　　）。

3. 一袋糖重500（　　），两袋糖重1（　　）。

4. 在（　　）里填上合适的数。

（　　）÷8＝5　　81÷（　　）＝9

4×（　　）＝28　　27÷（　　）＝3

5. 在◯里填上“＞”“＜”或“＝”。

150＋150 ◯ 300　　4千克 ◯ 4400克

48÷6 ◯ 48÷8　　35千克 ◯ 350克

二、我会选。（把正确答案的序号填在括号里。每题4分，共12分）

1. 下面各数中，只读一个零的数是（　　）。

①3700　　②3007　　③3730

2. 估一估，得数大于500的算式是（　　）。

①425＋98　　②985－689　　③309＋129

3. 被除数是9的算式是（　　）。

①36÷9　　②9÷3　　③18÷2

三、计算挑战。（共44分）

1. 看谁算得又对又快。（每题1分，共11分）

36÷6＝　　400＋700＝　　1500－600＝　　63÷9＝

7×8＝　　72÷8＝　　2500－500＝　　9÷1＝

1千克－700克＝　　7克＋84克＝　　400克＋600克＝

关注微信公众号“教辅资料站”获取更多学习资料

2. 列竖式计算。（每题 3 分，共 9 分）

58 ÷ 6 =　　76 ÷ 9 =　　45 ÷ 6 =

3. 计算下面各题。（每题 4 分，共 24 分）

27 ÷ 9 × 7　　67 − 35 + 24　　（46 + 18）÷ 8

32 ÷（65 − 57）　　72 ÷ 9 × 4　　6 × 7 − 42

四、走进生活，解决问题。（共 24 分）

1. 王老师带领同学们去动物园玩，买门票一共花了 38 元，有多少名同学去了动物园？（12 分）



2. 海豚队的队员每 9 只乘一辆中巴车，正好乘了 4 辆中巴车，到接待处后，平均分在 6 个水池里。每个水池里分几只？（12 分）

荣德基好卷

关注微信公众号“教辅资料站”获取更多学习资料

班级_____ 姓名_____ 得分_____ 时间：40分钟 满分：100分

一、我会填。（每空2分，共42分）

1. 下面现象是平移的在括号里画“△”，是旋转的画“○”。



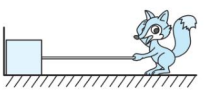


（　　）（　　）（　　）（　　）

2. 下面的图形是轴对称图形的在括号里画“√”，不是的画“×”。


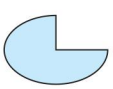




（　　）（　　）（　　）（　　）（　　）







（　　）（　　）（　　）（　　）（　　）

3. 写出分针从12旋转到下面各个位置所经过的时间。





（　　）（　　）（　　）

4. 把镜子放在虚线上，看看整个图形是什么？填在括号里。


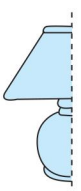
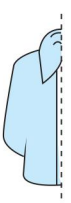


（　　）（　　）（　　）（　　）

关注微信公众号“教辅资料站”获取更多学习资料

二、下面各图中的对称轴画得对吗？对的画“√”，错的画“×”。(10分)

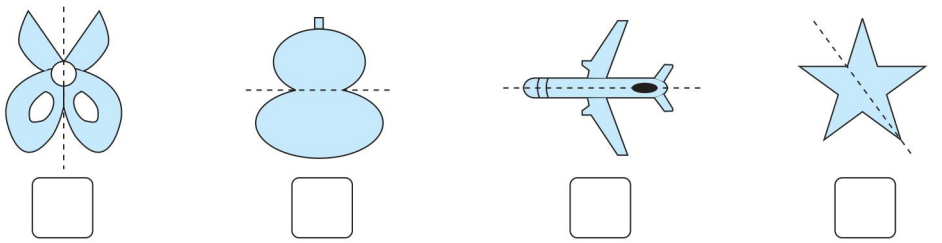

三、圈一圈。(共24分)

1. 哪条鱼是由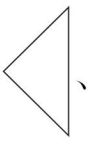、○、通过平移拼成的？(12分)

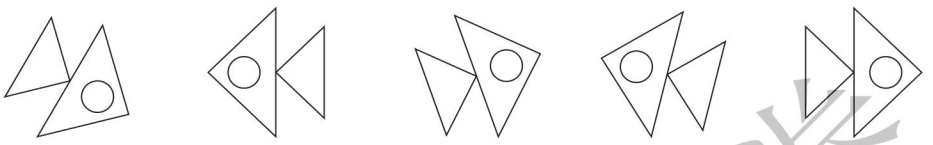

2. 将一张纸对折后剪去两个圆，展开后是哪一个？(12分)

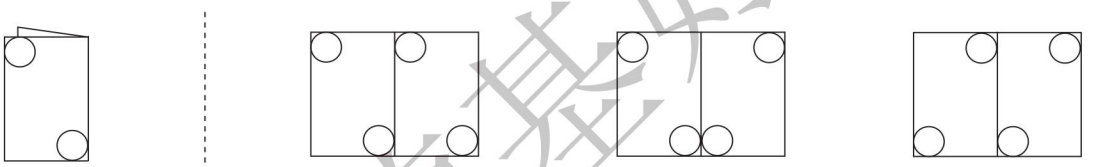

四、要铺满最下面一层，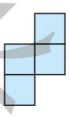和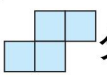分别该怎样平移？(每空3分，共24分)

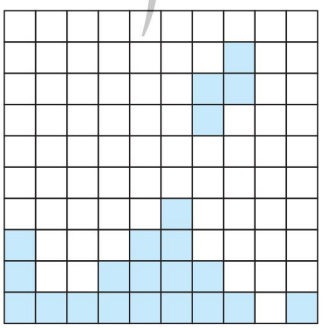

先向（　　）平移（　　）个格，
再向（　　）平移（　　）个格。

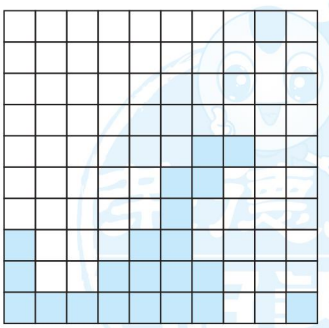

先向（　　）平移（　　）个格，
再向（　　）平移（　　）个格。

荣德基好卷

关注微信公众号“教辅资料站”获取更多学习资料

方法技能提升卷3 初步的数感

班级_____ 姓名_____ 得分_____ 时间：40分钟 满分：100分

一、我会填。（第2题5分，其余每题4分，共21分）

1. 用4张数字卡片 5 7 0 9 组成的四位数中，最接近9000的数是（　　），读作（　　）；大于5000并且小于5700的数是（　　）和（　　）。

2. 在□里最大能填几？

6547＞6□45　　45÷5＞□　　6＜24÷□

1千克－300克＞□00克　　☆÷5＝3……□

3. 一个三位数，它的各位数字之和是4，这样的三位数中，最大的是（　　），最小的是（　　）。

4. 操场上有19个同学在跳舞，如果想把他们平均分成3组，至少应去掉（　　）个同学。

5. 用 2 3 6 8 12 24 六张卡片，摆出两个除法算式。（每张卡片只用一次）

_____　　_____

二、我会选。（13分）

从7，4，9，28和16中选出3个数写出两个乘法算式和两个除法算式，并写出所用的口诀。

□○□=□　　□○□=□

□○□=□　　□○□=□

口诀：_____

关注微信公众号“教辅资料站”获取更多学习资料

三、我会比。（每题 2 分，共 18 分）

在 ◯ 里填上“ > ”“ < ”或“ = ”。

3200 克◯3 千克　　6200 克◯6199 克　　7000 克◯7 千克

42 ÷ 6 ◯ 6　　21 ÷ 3 ◯ 1 × 6 + 2　　9 × 3 ◯ 9 ÷ 3

36 ÷ 6 ◯ 5 × 3 − 8　　54 ◯ 5 × 9 + 5　　12 ÷ 2 ◯ 2 × 4 − 3

四、我会填运算符号。（每题 3 分，共 24 分）

小鸟飞向哪里？



3 ◯ 6 = 18　　54 ◯ 6 = 9　　25 ◯ 5 = 5

9 ◯ 9 = 18　　9 ◯ 3 = 6　　5 ◯ 9 = 45

140 ◯ 70 = 70　　3000 ◯ 2000 = 5000

五、我会想。（每题 4 分，共 24 分）

在□里填上合适的数字。

□
□ ⟌ 6 4
6 4
0

□
6 ⟌ □ □
4 2
1

□
8 ⟌ 5 □
5 6
3

□
5 ⟌ □ □
3 5
□

9
□ ⟌ 8 □
□ □
3

8
□ ⟌ 3 □
□ 2
3

荣德基好卷

关注微信公众号“教辅资料站”获取更多学习资料

方法技能提升卷4 有余数的除法应用题

班级_____ 姓名_____ 得分_____ 时间：40分钟 满分：100分

一、我会填。（每题6分，共30分）

1. □÷△=☆……6，除数比10小，△最大是（　　），最小是（　　）。

2. 30个，每盘最多放7个，至少需要（　　）个盘子。

3. ○△☆□○△☆□○……第17个图案是（　　）。

4. 在（　　）里填上合适的数。

（　　）÷7=8……4　　（　　）÷5=5……4

5. 看图填一填。

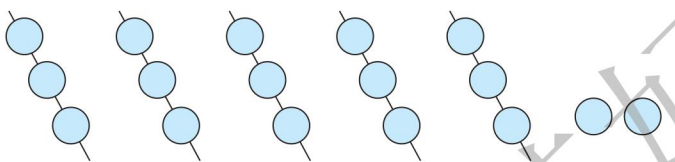

（1）17÷（　　）=（　　）（串）……（　　）（个）

（2）17÷（　　）=（　　）（个）……（　　）（个）

二、走进生活，解决问题。（共70分）

1. 张叔叔要生产45个零件，如果每天最多生产8个，至少需要多少天才能完成？（14分）

2. （14分）



荣德基好卷

关注微信公众号“教辅资料站”获取更多学习资料

3. 小红想穿一串项链，她用了两种颜色的珠子按下面的规律穿的，共用了26颗。黄色和蓝色珠子各用了几颗？（14分）

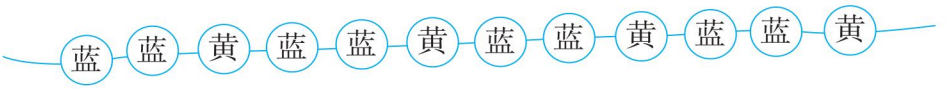

4. 一共有23人去公园划船。

（1）如果都租小船，至少要几条小船？（4分）



（2）如果都租大船，至少要几条大船？（4分）

（3）还可以怎样安排租船呢？（6分）

5.

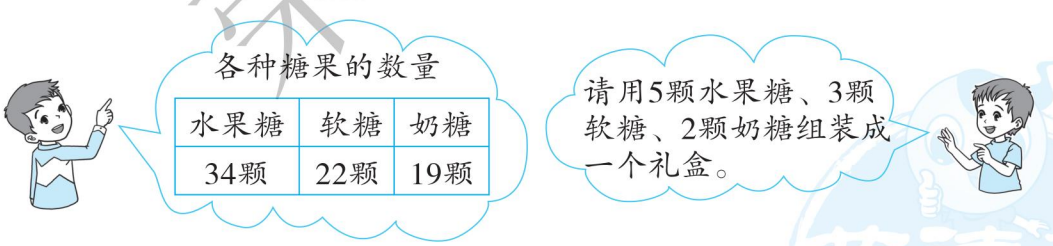

这些糖果最多可以组装成多少个这样的礼盒？（14分）

荣德基好卷

关注微信公众号“教辅资料站”获取更多学习资料

重难点突破卷1 两步的应用题

班级_____ 姓名_____ 得分_____ 时间：40分钟 满分：100分

一、我会填。（每题6分，共30分）

1.



988元



105元



210元

估一估，买这三种商品大约共需（　　）元。

2. 有47吨煤，用载重5吨的货车来运，运（　　）次后，还剩2吨。

3. 有1600元，买豆浆机用去300元，买冰箱用去900元，还剩(　　)元。

4. 除数是9，商比除数小3，则被除数是（　　）。

5.





（1）红队：赢3场输2场，得（　　）分。

（2）黄队：赢4场输1场，得（　　）分。

二、走进生活，解决问题。（共70分）

1. 女同学比男同学多花多少钱？（14分）

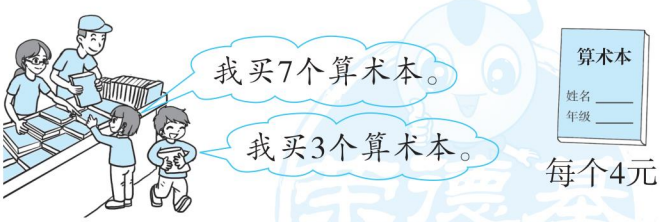

2. 阳光小学原来有45本儿童画报，又买来18本。如果每个班分9本，可以分给几个班？（14分）

关注微信公众号“教辅资料站”获取更多学习资料

3. 小芳跳了多少下？（14 分）



丽丽



飞飞



小芳

4. 二年级召开家长会，同学们准备了34 把单人椅和6 把双人椅。邀请了50 位家长，座位够吗？（14 分）

5. （14 分）


1双手套24元

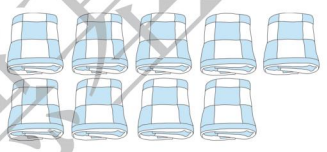
9条毛巾共54元

（1）1 双手套比 1 条毛巾贵多少元？（7 分）

（2）买 1 双手套的钱可以买几条毛巾？（7 分）

荣德基好卷

关注微信公众号“教辅资料站”获取更多学习资料

重难点突破卷2 初步的逻辑推理能力

班级_____ 姓名_____ 得分_____ 时间：40分钟 满分：100分

一、我会填。（每题6分，共30分）

1. 小刚、小强和小丁在100米赛跑中取得了前三名的成绩。已知小刚不是第一名，小强不是前两名。第一名是（　　）。

2. 甲、乙、丙三个小朋友分别戴着1顶红帽子、1顶蓝帽子和1顶黄帽子，甲看见1人戴红帽子，1人戴蓝帽子，那么甲戴（　　）帽子。

3. 胖胖、笨笨和圆圆是三只可爱的小猪。它们比赛赛跑。笨笨说：“我跑得不是最快的，但比胖胖快。”请你猜一猜，（　　）跑得最快，（　　）跑得最慢。

4. 用 3 、 0 、 6 这三张数字卡片，能摆成（　　）个不同的三位数，分别是（　　）。

5. 猜年龄。



年龄最小的是（　　），年龄最大的是（　　）。

二、在方框里填上1～9使算式成立，所填数字不能重复。（12分）

$$\begin{array}{r} 2\ 7 \\ +\ 5\ \square \\ \hline 8\ 1 \end{array} \qquad \begin{array}{r} 4\ \square \\ +\ \square\ \square \\ \hline 6\ 2 \end{array}$$

$$\begin{array}{r} \square\ \square \\ -\ \square\ 8 \\ \hline 5\ 4 \end{array} \qquad \begin{array}{r} \square\ 4 \\ -\ 1\ \square \\ \hline 4\ 6 \end{array}$$

关注微信公众号“教辅资料站”获取更多学习资料

三、走进生活，我会推理。（共 58 分）

1. 在下面的方格中，每行、每列都有 1 ~ 4 这四个数，并且每个数在每行、每列都只出现一次。B、C 各是几？（15 分）

		1	
	3	A	1
	C	4	2
		B	

2. 李叔叔把红、白、蓝各一个气球送给 3 位小朋友。根据下面的对话，你能猜出他们分到的各是什么颜色的气球吗？（15 分）



3. 小芳、小丽、小明、小强四人同住在一幢四层的楼房里。已知小芳住的比小丽住的楼层高，比小明住的楼层低，小强住顶层，你知道他们分别住第几层吗？请填在下边房子里。（12 分）

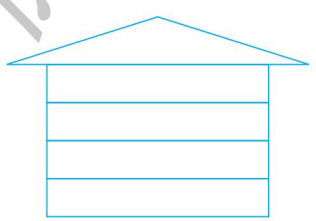

4. 小熊家的一罐蜂蜜被偷了，有嫌疑的是小毛、小球、小飞、小米 4 只小老鼠，现在调查出是体重最重的那只小老鼠偷的，偷蜂蜜的是哪只小老鼠？（16 分）



关注微信公众号“教辅资料站”获取更多学习资料

重难点突破卷3 熟练理解万以内的数

班级_____ 姓名_____ 得分_____ 时间：40分钟 满分：100分

一、我会填。（每题6分，共30分）

1. 15个百是（　　），1200里面有（　　）个十。

2. 写出与下面各数相邻的两个数。

□ 8240 □　　□ 6000 □　　□ 919 □

3. 有一个四位数，从右边数第二位是5，第四位是9，其余各位都是0，这个数是（　　）。

4. 从4、7、0、5、1中任选4个数组成一个四位数，最大的是（　　），最小的是（　　）。

5. 方框里最小填几？

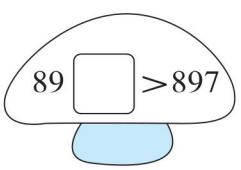

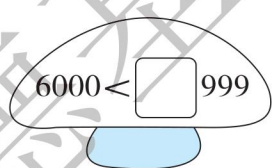

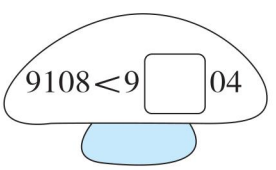

二、我会比。（每空2分，共12分）

把下面的数按从大到小的顺序排列。



（　　）>（　　）>（　　）>（　　）>（　　）>（　　）

三、我会想。（每题3分，共18分）

在□里填上合适的数。

600 + □ = 1400　　4500 − □ = 4300　　□ − 70 = 80

700 + □ = 4700　　1000 − □ = 300　　□ + 500 = 6600

关注微信公众号“教辅资料站”获取更多学习资料

四、走进生活，解决问题。（共 40 分）

1. 某大型超市定做了 1100 个彩蛋。（12 分）



2.

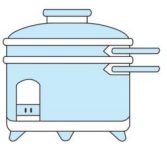
电饭煲


电视机


微波炉800元

（1）电饭煲比微波炉便宜 500 元，一个电饭煲多少钱？（7 分）

（2）电视机比微波炉贵 900 元，一台电视机多少钱？（7 分）

3.


400元


4000元


5300元



（1）最多花去多少钱？（7 分）　　（2）最少花去多少钱？（7 分）

荣德基好卷

关注微信公众号“教辅资料站”获取更多学习资料

重难点突破卷4 应用题的综合练习

班级_____ 姓名_____ 得分_____ 时间：40分钟 满分：100分

一、我会看图列式计算。（每题5分，共20分）

1.

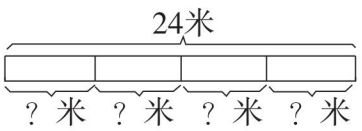

2.

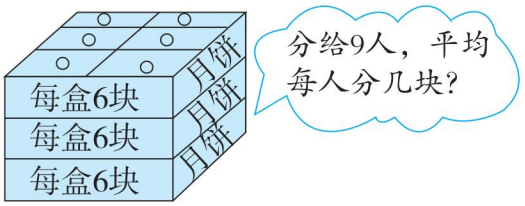

3.



已经修好了51米　剩下的3天修完，平均每天修多少米？

4.

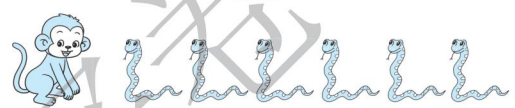

二、走进生活，解决问题。（共80分）

1. 体育老师要从三名“跳远健儿”中选出一名参加全市的少儿运动会比赛。



	李佳	余珍	刘笑
第1次	127厘米	124厘米	126厘米
第2次	120厘米	136厘米	119厘米
第3次	129厘米	130厘米	137厘米

（1）请排出他们的名次。（10分）

（2）老师会选谁参加全市的少儿运动会？（10分）

荣德基好卷

关注微信公众号“教辅资料站”获取更多学习资料

2.



A种（共24元）



B种（共25元）



C种（共9元）

（1）上面茶杯的质量是相同的，买哪一种茶杯最划算？（10 分）

（2）妈妈用 22 元买 C 种茶杯，最多可以买几个？（10 分）

3. 买家具。



2898元



998元

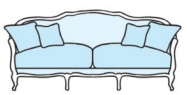

3965元

（1）买一张床和一个沙发一共大约多少钱？（10 分）

（2）爸爸带 5000 元想买一个衣柜和一个沙发，够吗？（10 分）

4. 甲、乙、丙、丁、戊 5 名同学依次报数，23 是谁报的？36 是谁报的？（20 分）

荣德基好卷

关注微信公众号“教辅资料站”获取更多学习资料

周测培优卷 1

数据的收集整理能力检测卷

一、1.（1）《熊出没》　《米奇妙妙屋》

（2）20　（3）56

2.（1）晴天　16

（2）2　14

（3）4　2

（4）31　夏

二、1.（1）7　8　3　4

（2）小雨家这一周内使用塑料袋最多，小聪家这一周内使用塑料袋最少。

（3）用布袋代替塑料袋，或者重复使用塑料袋。

【点拨】第（3）题答案不唯一。

2.（1）13 − 4 = 9（票）

（2）13 + 6 + 15 + 4 = 38（人）

（3）小笑当正班长，小杰当副班长。

3.（1）4

（2）18　24　8　16

（3）不会改变。

周测培优卷 2

表内除法（一）能力检测卷

一、



（ √ ）

二、1. 4

2. 10　5　10 ÷ 2 = 5（份）

3. 15 ÷ 3 = 5　15 ÷ 5 = 3

【点拨】答案不唯一。

4. 6　【点拨】要求付多少张，就是求 30 里面有几个 5，列式是 30 ÷ 5 = 6（张）。

5.（1）6　（2）3

三、1. ×　2. ×　3. ×

四、1. 27　5　4　40　6　3　5　4

2.

被除数	12	30	8	24	15	10	12
除数	4	6	2	6	3	5	2
商	3	5	4	4	5	2	6

五、1.（1）18 ÷ 6 = 3

（2）18 ÷ 3 = 6

【点拨】明明和他的两个好朋友，一共是 3 人。

2.（1）4 × 2 = 8（个）

（2）12 ÷ 2 = 6（张）

3. 4 × 6 = 24（个）

口答：这些气球有 24 个。

4.（1）5 × 3 = 15（辆）

口答：3 行排了 15 辆。

（2）15 ÷ 5 = 3（行）

口答：能排 3 行。

（3）15 − 5 = 10（辆）

口答：还剩 10 辆新型山地作战坦克。

荣德基好卷

关注微信公众号“教辅资料站”获取更多学习资料

周测培优卷 3

图形的运动(一)能力检测卷

一、1. (　) 2. (○) 3. (○)

4. (○) 5. (○) 6. (　)

二、1. √ 2. × 3. √ 4. × 5. ×

三、1. ② 2. ① 3. ② 4. ③ 5. ③

四、1. 熊　小兔(连一连略)

2. 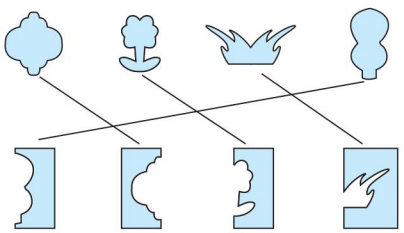

五、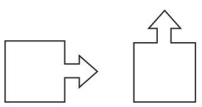

【点拨】旋转的方向是上、左、下、右、上、左、下、右……。

六、30　10　45

周测培优卷 4

表内除法(二)计算能力检测卷

一、1. 9　六九五十四

2. 56　7　8

3. 4

4. 9　8　2　12　6　9　24　4(第3、4、7、8个苹果里填的数不唯一)

5. 8÷8　42÷7　35÷5　3×4

6. ×　−　×　÷　×(最后一空答案不唯一)

二、1. ①　2. ②　3. ③

三、1. 72　9　6　94　61　5　9　9

2. 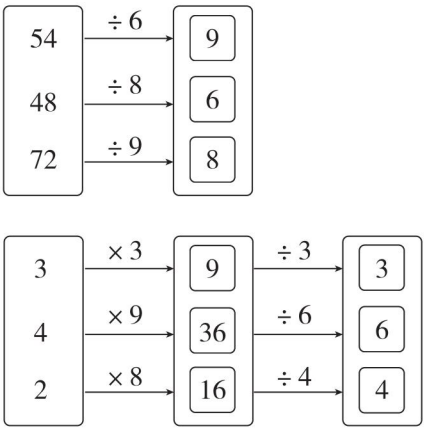

3. 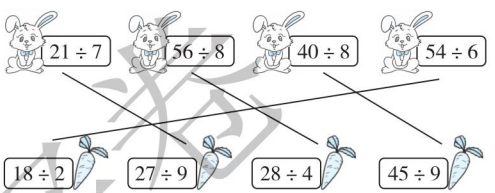

四、1. 5×9=45(元)　40÷5=8(次)

口答:5人乘坐一次旋转木马需要45元,40分钟旋转木马可运行8次。

【点拨】会选择有关联的两个条件解决问题。

2. 27÷3=9(个)

40÷5=8(个)

9>8

口答:明明写得快。

周测培优卷 5

表内除法(二)应用能力检测卷

一、1. 四七二十八

2. 6　5

3. 45÷5=9　45÷9=5

4. 7　9

荣德基好卷
关注微信公众号“教辅资料站”获取更多学习资料

5. 3　6　【点拨】求还要训练几周，列式是21 ÷7 =3（周）；求一共训练几周，列式是3 +3 =6（周）。

二、1. 5　7　2　30　63　8　4　24

2. 5　4　9　9　7　6

三、1. 36 ÷9 =4（天）

36 ÷6 =6（页）

口答：丽丽4天看完。明明平均每天看6页。

2.（1）36 ÷4 =9（元）

12 −9 =3（元）

口答：现在每盒9元，每盒比原来便宜3元。

（2）9 ×6 =54（元）

口答：共花了54元。

3.（1）32 ÷4 =8（艘）

口答：需要8艘游艇。

（2）3 ×8 =24（元）

口答：欢欢坐了3次碰碰车花了24元。

【点拨】用3次乘每次8元求出一共花的钱数。

（3）欢欢坐了3次旋转木马花了多少元?

3 ×5 =15（元）

口答：欢欢坐了3次旋转木马花了15元。

【点拨】第（3）问答案不唯一。

周测培优卷6

混合运算的计算能力检测卷

一、1. 除　减　13

2. 乘　除　3

3. 68　8 ×(9 −4)

【点拨】如果要改变运算顺序，说明要先算减法。

4. 不同　不同

5. 54　72

6. <　=　>　>

二、1.

6 ×7 +24	64 ÷8 +57
=42 +24	=8 +57
=66	=65
45 ÷(29 −20)	(14 −9) ×8
=45 ÷9	=5 ×8
=5	=40
6 ×(2 ×4)	(28 −8) ÷5
=6 ×8	=20 ÷5
=48	=4

2. ×　75 −18 +12
=57 +12
=69

×　6 ×4 ÷3
=24 ÷3
=8

荣德基好卷

关注微信公众号“教辅资料站”获取更多学习资料

3.

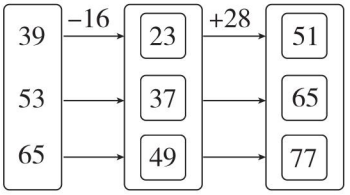

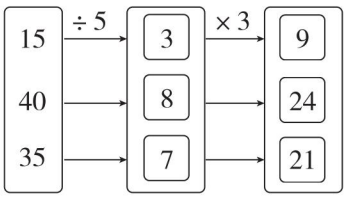

三、1. 方法一：　220 − 120 − 80

= 100 − 80

= 20（件）

方法二：　220 −（120 + 80）

= 220 − 200

= 20（件）

口答：还剩 20 件没送。

2. 7 × 8 − 27 = 29（盆）

口答：还剩 29 盆没浇。

3.（20 + 12）÷ 4 = 8（只）

口答：平均每间兔舍住 8 只兔子。

【点拨】先求出白兔和灰兔一共有多少只。

周测培优卷 7

混合运算的应用能力检测卷

一、1. 左　右

2. 乘除　加减

3. 45　5

4. 49　38

5. 14　【点拨】先求出□里的数，列式是 7 × 8 − 8 = 48，再求出正确的得数，列式是 8 + 48 ÷ 8 = 14。

6. 还剩下多少页没有看

平均每天看几页

（40 − 8）÷ 4 = 8（页）

7.（1）21 − 72 ÷ 8 = 12

（2）（57 − 15）÷ 7 = 6

（3）84 − 5 × 7 = 49

二、　9 ×（72 ÷ 8）　　4 + 5 × 7

= 9 × 9　　= 4 + 35

= 81　　= 39

68 − 56 ÷ 8　　63 ÷（9 − 2）

= 68 − 7　　= 63 ÷ 7

= 61　　= 9

三、（33 − 18）÷ 3 = 5（元）

4 × 4 + 26 = 42（元）

四、1. 59 + 30 − 36 = 53（本）

口答：再购进 53 本科技书就和故事书一样多。

2. 50 − 22 − 18 = 10（颗）

口答：还剩 10 颗枣。

3.（1）3 ×（8 − 3）= 15（元）

口答：豆豆、果果和丫丫三人玩过山车要比玩碰碰车多花 15 元钱。

（2）6 个小朋友玩一次碰碰车花的钱可以让几个小朋友玩一次旋转木马？

6 × 3 = 18（元）　18 ÷ 6 = 3（个）

口答：6 个小朋友玩一次碰碰车花的钱可以让 3 个小朋友玩一次旋转木马。

【点拨】第（2）问答案不唯一。

4. 7 × 8 = 56（元）

9 ×（8 − 2）= 54（元）

荣德基好卷

关注微信公众号“教辅资料站”获取更多学习资料

54 < 56

口答：她买 9 块蛋糕划算。

【点拨】买 9 块蛋糕一共花 54 元，比 56 元少，而且还可以多买 2 块蛋糕。

周测培优卷 8

有余数的除法的能力检测卷

一、1. 6　5　3　6　6　9

2. 7　6

3. 1、2、3、4

4. 4　3　5. △

6. 4　4　6

【点拨】求再买的本数，列式是 5 × 6 − 24 = 6（本）。

二、1. √　2. √　3. ×

三、1. ①　2. ③　3. ②　4. ①

四、53 ÷ 9 = 5……8　　68 ÷ 8 = 8……4

$$\begin{array}{r} 5 \\ 9\overline{)53} \\ 45 \\ \hline 8 \end{array} \qquad \begin{array}{r} 8 \\ 8\overline{)68} \\ 64 \\ \hline 4 \end{array}$$

37 ÷ 6 = 6……1　　60 ÷ 7 = 8……4

$$\begin{array}{r} 6 \\ 6\overline{)37} \\ 36 \\ \hline 1 \end{array} \qquad \begin{array}{r} 8 \\ 7\overline{)60} \\ 56 \\ \hline 4 \end{array}$$

五、1. 3 × 8 = 24（个）

24 ÷ 9 = 2（袋）……6（个）

口答：可以装 2 袋，还剩 6 个。

2. 17 ÷ 3 = 5（顶）……2（人）

5 + 1 = 6（顶）

口答：至少要搭 6 顶帐篷。

3.（1）50 ÷ 8 = 6（张）……2（元）

50 ÷ 6 = 8（张）……2（元）

口答：50 元钱最多能买 6 张碰碰车票，用这些钱最多能买 8 张小火车票。

【点拨】剩余的钱不够再买一张票。

（2）30 + 1 = 31（人）

31 ÷ 4 = 7（条）……3（人）

7 + 1 = 8（条）

口答：至少需要租 8 条小船。

周测培优卷 9

万以内数的认识的能力检测卷

一、1. 6 个十　6 个千

2. 4　840　408

3. 2016　2000

4. 6800　5400

5. 7058

6.（1）6000　7000

（2）2100　2120

（3）500　600

二、1. ②　2. ①　3. ③

4. ③　5. ③

三、2104　二千一百零四

5026　五千零二十六

1204　一千二百零四

10000　一万

四、1000　2200　900　510　90　1200

3600　2000

五、7640　4706　4670　4607　674

关注微信公众号“教辅资料站”获取更多学习资料

六、1.

《简笔画》			《连环画》	《天天健康》
208 页	210 页	120 页	190 页	685 页

2. 六百多支与五百多支合起来最多是一千二百多支。

1300 > 一千二百多

口答：够。

3. （1）小明从家出发经过小丽家到书店要走多少米？

700 + 800 = 1500（米）

口答：小明从家出发经过小丽家到书店要走 1500 米。

（2）小丽放学回家走哪条路近？要走多少米？

200 + 700 = 900（米）

1000 + 800 = 1800（米）

900 米 < 1800 米

口答：小丽放学回家经过小明家这条路近，要走 900 米。

【点拨】此题答案不唯一。

周测培优卷 10

克和千克的能力检测卷

一、1. 千克　克　千克　克　千克

2. 1200　【点拨】秤上显示的是 400 克，列式是 400 + 800 = 1200（克）。

3. 10

4. 10　20

5. =　<　>

6. 2　7000　10　1000

二、1. ×　2. ×　3. ×

三、1.

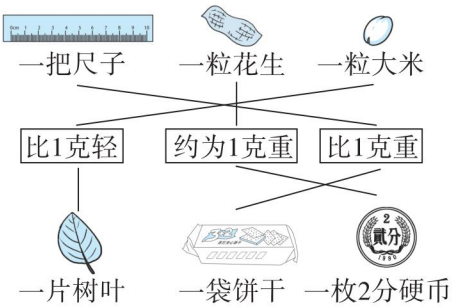

2. 克　千克　千克　克

3.

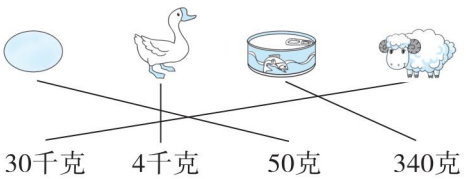

四、1.（1）狮子　300 kg　小兔　800 g

（2）狮子　毛驴　小猪　小兔

2.（1）2 千克 = 500 克 + 500 克 + 500 克 + 500 克

1 千克 = 500 克 + 500 克

4 × 4 + 2 × 2 = 20（元）

口答：应付 20 元。

【点拨】先分析 2 千克和 1 千克可以看成几个 500 克相加。

（2）买 1500 克白菜，应付多少钱？

1500 克 = 500 克 + 500 克 + 500 克

2 × 3 = 6（元）

口答：应付 6 元。

【点拨】第（2）问答案不唯一。

期末复习冲刺卷

方法技能提升卷 1　计算的挑战

一、1. 10　100

2. 14 ÷ 7 = 2　7 ÷ 7 = 1（答案不唯一）

3. 克　千克

关注微信公众号“教辅资料站”获取更多学习资料

4. 40　9　7　9

5. =　<　>　>

二、1. ②　2. ①　3. ②

三、1. 6　1100　900　7　56　9　2000　9

300 克　91 克　1 千克或 1000 克

2. 58 ÷ 6 = 9……4　　76 ÷ 9 = 8……4

```
    9                8
6 ) 5 8          9 ) 7 6
  5 4              7 2
  ---              ---
    4                4
```

45 ÷ 6 = 7……3

```
    7
6 ) 4 5
  4 2
  ---
    3
```

3.

27 ÷ 9 × 7　　67 − 35 + 24

= 3 × 7　　= 32 + 24

= 21　　= 56

(46 + 18) ÷ 8　　32 ÷ (65 − 57)

= 64 ÷ 8　　= 32 ÷ 8

= 8　　= 4

72 ÷ 9 × 4　　6 × 7 − 42

= 8 × 4　　= 42 − 42

= 32　　= 0

四、1. 38 − 8 = 30（元）

30 ÷ 6 = 5（名）

口答：有 5 名同学去了动物园。

【点拨】从总钱数中减去王老师买门票的 8 元就是同学们买门票所花的钱。

2. 9 × 4 ÷ 6 = 6（只）

口答：每个水池里分 6 只。

方法技能提升卷 2　初步的空间想象能力

一、1. ○　△　△　○

2. √　×　√　×　×　×　√　×　×　√

3. 45 分钟　20 分钟　55 分钟

【点拨】分针从 12 开始，每走一大格，走了 5 分钟，故也可以 5 个 5 个地数。

4. 蜻蜓　台灯　衣服　中国结

二、√　×　√　√

三、1.



2.

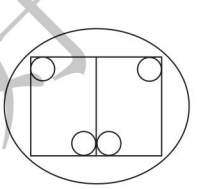

四、右　2　下　6

右　2　下　4

【点拨】关注关键条件“要铺满最下面一层”。

方法技能提升卷 3　初步的数感

一、1. 9057　九千零五十七　5097　5079

【点拨】大于 5000 并且小于 5700，推理出这个数的千位一定是 5，百位不可能是 7，也不可能是 9，那百位只能是 0。

2. 5　8　3　6　4

3. 400　103　【点拨】最大的三位数，说明百位是 4，而各位数字之和是 4，

关注微信公众号“教辅资料站”获取更多学习资料

所以十位和个位都是0；最小的三位数，说明百位是1，十位是0，那个位就是3。

4. 1

5. 12 ÷ 2 = 6　24 ÷ 3 = 8（答案不唯一）

二、4 × 7 = 28　28 ÷ 4 = 7　7 × 4 = 28

28 ÷ 7 = 4　四七二十八

三、> > = > < > < > >

四、× ÷ ÷ + − × − +

五、

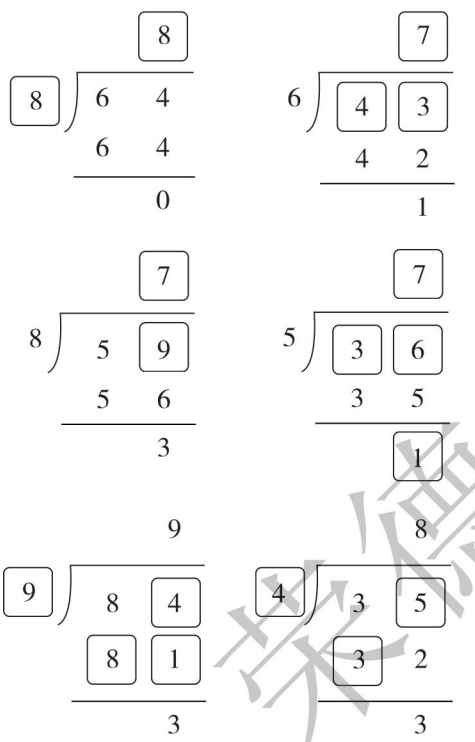

（第4个竖式的被除数和余数答案不唯一）

方法技能提升卷4　有余数的除法应用题

一、1. 9　7　【点拨】余数要比除数小，余数是6，除数最小是7。

2. 5

3. ○

4. 60　29

5. （1）3　5　2

（2）5　3　2

二、1. 45 ÷ 8 = 5（天）……5（个）

5 + 1 = 6（天）

口答：至少需要6天才能完成。

【点拨】多余的5个还需要做1天，因此5 + 1 = 6（天）。

2. 27 ÷ 4 = 6（杯）……3（元）

口答：最多可以买6杯果汁。

3. 26 ÷ 3 = 8（组）……2（颗）

蓝：8 × 2 + 2 = 18（颗）

黄：8 × 1 = 8（颗）

口答：蓝色珠子用了18颗，黄色珠子用了8颗。

【点拨】3颗珠子为一组，其中有2颗蓝色珠子，1颗黄色珠子。

4. （1）23 ÷ 3 = 7（条）……2（人）

7 + 1 = 8（条）

口答：至少要8条小船。

（2）23 ÷ 5 = 4（条）……3（人）

4 + 1 = 5（条）

口答：至少要5条大船。

（3）23 − 3 = 20（人）

20 ÷ 5 = 4（条）

口答：还可以租1条小船和4条大船。（答案不唯一）

5. 34 ÷ 5 = 6（个）……4（颗）

22 ÷ 3 = 7（个）……1（颗）

19 ÷ 2 = 9（个）……1（颗）

6 < 7 < 9

荣德基试卷

关注微信公众号“教辅资料站”获取更多学习资料

口答：这些糖果最多可以组装成6个这样的礼盒。

重难点突破卷1　两步的应用题

一、1. 1300　2. 9　3. 400

4. 54　【点拨】先求出商，列式是9－3＝6，再求被除数，列式是6×9＝54。

5.（1）9　【点拨】列式是：3×5－2×3＝9（分）。

（2）17

二、1. 4×(7－3)＝16（元）

口答：女同学比男同学多花16元钱。

2.（45＋18）÷9＝7（个）

口答：可以分给7个班。

3. 40－8＋6＝38（下）

口答：小芳跳了38下。

4. 6×2＋34＝46（位）

46＜50

口答：座位不够。

【点拨】每把双人椅能坐2人。

5.（1）54÷9＝6（元）

24－6＝18（元）

口答：1双手套比1条毛巾贵18元。

（2）24÷6＝4（条）

口答：买1双手套的钱可以买4条毛巾。

重难点突破卷2　初步的逻辑推理能力

一、1. 小丁　【点拨】也可以这样推理，第一名不是小刚，也不是小强，那第一名就是小丁。

2. 黄

3. 圆圆　胖胖

4. 4　360、306、630、603

5. 小冰　小华

二、

2	7	4	5
＋ 5	4	＋ 1	7
8	1	6	2
9	2	6	4
－ 3	8	－ 1	8
5	4	4	6

【点拨】先肯定能填出的数字是4、2、6、8，再确定第2道算式中的十位上只能填1，还剩下3、5、7、9，而只有9－3＝6，如果被个位借“1”后，就是5，所以9和3填在第3道算式里。第2道算式中5和7位置可互换。

三、1. 口答：B是3，C是1。

2. 口答：小华分到的是白气球，小春分到的是红气球，小宇分到的是蓝气球。

3.

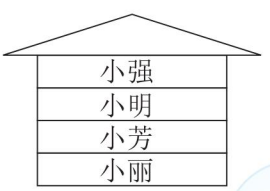

4. 口答：偷蜂蜜的是小飞。

【点拨】从三句话推理出，小飞体重最重。

重难点突破卷3　熟练理解万以内的数

一、1. 1500　120

关注微信公众号“教辅资料站”获取更多学习资料

2. 8239　8241　5999　6001　918　920

3. 9050

4. 7541　1045　5. 8　6　2

二、8070　6398　3587　2073　908　496

三、800　200　150　4000　700　6100

四、1. 489 < 500　495 < 500

500 + 500 = 1000（个）

1000 < 1100

489 + 495 < 1100

口答：做这些彩蛋给超市还不够。

2.（1）800 − 500 = 300（元）

口答：一个电饭煲 300 元。

（2）800 + 900 = 1700（元）

口答：一台电视机 1700 元。

3.（1）5300 + 4000 = 9300（元）

口答：最多花去 9300 元。

（2）4000 + 400 = 4400（元）

口答：最少花去 4400 元。

重难点突破卷 4　应用题的综合练习

一、1. 24 ÷ 4 = 6（米）

2. 6 × 3 ÷ 9 = 2（块）

3.（72 − 51）÷ 3 = 7（米）

4. 26 + 8 × 6 = 74（元）

二、1.（1）137 > 136 > 129

口答：第一名是刘笑，第二名是余珍，第三名是李佳。

（2）**口答：**老师会选刘笑参加全市的少儿运动会。

2.（1）24 ÷ 6 = 4（元）

25 ÷ 5 = 5（元）

9 ÷ 3 = 3（元）　3 < 4 < 5

口答：买 C 种茶杯最划算。

（2）22 ÷ 3 = 7（个）……1（元）

口答：最多可以买 7 个。

3.（1）2898 + 3965 ≈ 7000（元）

口答：买一张床和一个沙发一共大约 7000 元。

（2）3965 < 4000　998 < 1000

3965 + 998 < 5000

口答：够。

4. 23 ÷ 5 = 4（组）……3（名）

36 ÷ 5 = 7（组）……1（名）

口答：23 是丙报的，36 是甲报的。

【点拨】当余数是 1，是甲报的；当余数是 2，是乙报的；当余数是 3，是丙报的；当余数是 4，是丁报的，当没有余数，是戊报的。

荣德基好卷

关注微信公众号“教辅资料站”获取更多学习资料