荣德基 好卷

2年级 数学 下 R版

第6单元 跟踪检测卷

有余数的除法

时间：60分钟　满分：100分

题号	一	二	三	四	总分
得分					

姓名　学号　班级　学校　密　封　线

豆点提示：请不要在密封线内答题哦！

一、选一选。（把正确答案的序号填在括号里。每题2分，共16分）

1. 下面的算式中，余数是4的是（　　）。

①26÷3　②39÷4　③53÷7　④25÷6

2. ○÷7=6……△中，下列说法不正确的是（　　）。

①余数不可能是8　②余数必须小于6

③余数最大是6　④被除数最大是48

3. □÷6=5……3中，□里应填（　　）。

①23　②30　③33　④21

4. 4个小朋友在玩轮流报数游戏。下面四个数中，（　　）是欢欢报的。

①20

②21

③22

④23



5. 商店准备把篮子中24个松花蛋装袋后销售。销售部经理设计了以下几种装袋方案，（　　）种方案装袋后有剩余。



①每3个装一袋　②每4个装一袋

③每5个装一袋　④每6个装一袋

6. 与56÷9的商和余数都相同的算式是（　　）。

①26÷4　②40÷7　③26÷3　④54÷8

7. 在△÷5=7……□中，余数可以是（　　）。

①2，7　②1，2，3，4

③1，2，3，4，5，6　④任何数

8. 在31÷☆=○……7这个算式中，☆和○分别为（　　）。

①4和6　②6和4　③3和8　④8和3

二、填一填。（第1题6分，其余每空1分，共21分）

1. 圈一圈，填一填。

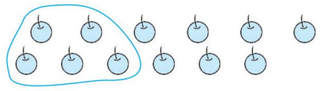

□÷□=□（组）……□（个）



□÷□=□（组）……□（个）

2. 在有余数的除法里，如果余数是4，除数最小是（　　）；如果除数是6，余数最大是（　　）。

3. 有42块海蛎饼，至少拿出（　　）块，剩下的才能平均分给5个小朋友，每个小朋友可分得（　　）块。

4. 每支铅笔6角钱，5元钱最多能买（　　）支铅笔。

5. 34米长的绳子，每5米剪一次，可以剪(　　)次，还剩(　　)米。

6. 在算式△÷□=8……7中，□最小是（　　），这时△是（　　）。

7. （　　）里最大能填几？

（　　）×7<36　　8×（　　）<75　　42>（　　）×6

54>（　　）×9　　4×（　　）<31　　39>（　　）×5

三、计算挑战。（共30分）

1. 直接写出下面各题的商和余数。（每题2分，共12分）

18÷5=□……□　　20÷3=□……□　　42÷5=□……□

59÷8=□……□　　11÷2=□……□　　50÷7=□……□

2. 列竖式计算。（每题3分，共18分）

27÷6=　　60÷8=　　83÷9=

47÷5=　　29÷9=　　24÷7=

荣德基好卷　微信公众号 教辅资料站

关注微信公众号“教辅资料站”获取更多学习资料

四、走进生活，解决问题。（共 33 分）

1. 舞台前的花真漂亮，从左往右的排列规律是红、黄、蓝，每3 盆一组，第 19 盆是什么颜色的花？（6 分）



2. 某学校准备在六一期间开展飞机模型比赛，二（1）班每 6 名同学正在合做一架飞机模型呢！（6 分）



3. 19 只小动物参加森林运动会，坐满 1 辆面包车后，剩下的坐小汽车，至少需要几辆小汽车？（6 分）



4. 这些水果最多可以装成多少个水果篮？（6 分）

32个	22个	19个

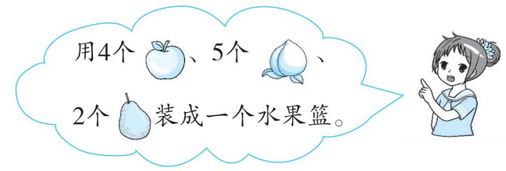

5. 二年级 34 个“作文小能手”一起去郊游。



（1）如果都租小汽车，最多可以坐满几辆车？会有剩余的人吗？（3 分）

（2）如果都租面包车，至少要租几辆？（3 分）

（3）还可以怎样租车呢？用算式说说你的想法。（3 分）

荣德基好卷
微信公众号
教辅资料站
关注微信公众号“教辅资料站”获取更多学习资料

自己说说
老师点评
家长点评
密 封 线

姓名 学号 班级 学校 密 封 线

荣德基 好卷 2年级 数学 下 R版

第7单元 跟踪检测卷

万以内数的认识

时间：60分钟　满分：100分

题号	一	二	三	四	五	总分
得分						

一、选一选。（把正确答案的序号填在括号里。每题2分，共14分）

1. 下面的数中，只读一个“零”的是（　　）。

①3000　②3006　③3600　④360

2. 最大的四位数与最小的五位数相差（　　）。

①1　②10　③100　④1000

3. 在数位顺序表中，右起第二位是（　　）位。

①千　②十　③百　④个

4. 下面各种形式表示的数中，哪个数中的“3”表示3个百？你的选择是（　　）。

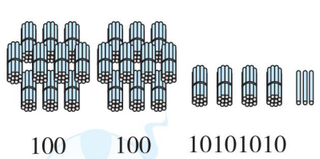

①

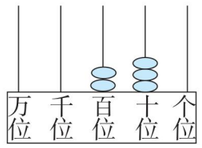

②

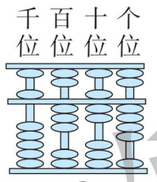

③



④

5. 下列各数最接近7000的是（　　）。

①6997　②6998　③7001　④7100

6. 用8、9、0、0组成的只读一个0的最大四位数是（　　）。

①8009　②8090　③9008　④9080

7. 一个四位数的百位上是7，千位上是8，且四个数字的和是28，那么这个四位数最小是（　　）。

①7849　②8749　③8758　④7858

二、填一填。（每空1分，共21分）

1. 10个十是（　　），10个（　　）是一千，10个一千是（　　）。

2. 算盘上一个上珠表示（　　），一个下珠表示（　　）。

3. 9999加上1是（　　），10000里面有（　　）个100，10000里面有（　　）个1000。

4. 7690是由（　　）个千、（　　）个百和（　　）个十组成的。

5. 根据2324＝2000＋300＋20＋4填一填。

（1）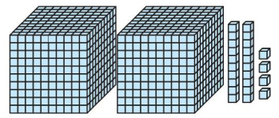
还缺（　　）个。

（2）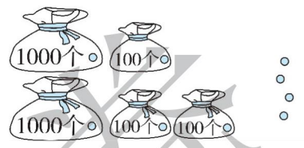

还缺（　　）个

。

（3）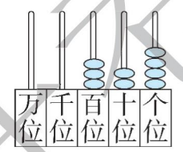

千位缺（　　）颗。

6. 56个百是（　　），7800里面有（　　）个百。

7. 由2、8、0、6组成的最大四位数是（　　），最小四位数是（　　）。（组成的四位数中没有重复数字）

8. 长江是亚洲第一长河，全长6397千米，横线上的数读作：（　　）；全世界的鸟类有九千零八种，横线上的数写作：（　　）。

9. 若7869＜7□68，则□里填（　　）。

三、看图写数、读数。（算盘最右边一档是个位。每题2分，共8分）

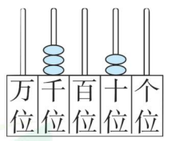

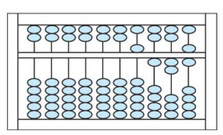
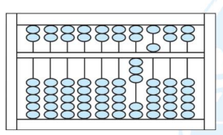
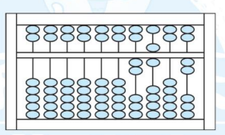

写作：_____　写作：_____　写作：_____　写作：_____

读作：_____　读作：_____　读作：_____　读作：_____

四、计算挑战。（共26分）

1. 看谁算得又对又快。（每题1分，共12分）

5000－2000＝	1200－700＝	1500－600＝	150－90＝
6000－3000＝	500＋800＝	3000＋700＝	4600＋300＝
2300－800＝	2500－1000＝	6600－500＝	3600－700＝



荣德基 微信公众号 教辅资料站
关注微信公众号“教辅资料站”获取更多学习资料

2. 在□里填上适当的数字。（每题 1 分，共 6 分）

37 □ < 371　　□ 65 > 766　　485 < 4 □ 5

825 > 8 □ 9　　999 □ > 9998　　134 □ < 1341

3. 在○里填上“ > ”“ < ”或“ = ”。（每题 2 分，共 8 分）

4068 ○ 3468　　598 ○ 1209

5000 + 600 ○ 4000　　200 + 900 ○ 1100

五、走进生活，解决问题。（共 31 分）

1. 下面是某市的几所学校的学生人数情况，在表中填上学校名称。（6 分）



986 人	1068 人	2569 人

2. 造一个“彩虹桥”需要 600 个气球。剩下的气球够吗？（6 分）



3. 明明在春节积攒了 400 元的压岁钱。



明明剩下的钱够吗？如果不够，明明至少还要积攒多少钱？（6 分）

4. 某校一至四年级所有同学到儿童剧场看话剧。



一年级有 180 人。二年级有 290 人。

三年级有 370 人。四年级有 300 人。

（1）一至四年级所有同学能同一场次看话剧吗？（3 分）

（2）如果不能同一场次看话剧，那么哪两个年级能同一场次？（3 分）

5. 某天到以下各景点游玩的人数如下表。

武夷山	鼓浪屿	清源山
1204 人	6028 人	3915 人

（1）游玩的人数各接近几千人？（3 分）

（2）游玩人数最多的比最少的大约多几千人？（4 分）

荣德基好卷
微信公众号
教辅资料站
关注微信公众号“教辅资料站”获取更多学习资料
自己说说
老师点评
家长点评
密
封
线

荣德基 好卷

2年级 数学 下 R版

第8单元 跟踪检测卷

克和千克

时间：60分钟　满分：100分

题号	一	二	三	四	五	六	七	总分
得分								

一、选一选。（把正确答案的序号填在括号里。每题2分，共12分）

1. 爸爸的体重是（　　）。

①700 g　　②7 kg　　③70 kg　　④70 g

2. 1块洗衣皂重100克，（　　）块洗衣皂重1 kg。

①1　　②5　　③10　　④100

3. 1千克的棉花和1000克的铁比较，（　　）。

①1千克的棉花重　　②1000克的铁重

③一样重　　④无法比较

4. 称量一头猪的质量时，用（　　）作单位比较合适。

①米　　②克　　③千克

5. 一桶水连桶重9千克，桶重1千克，水重（　　）。

①10千克　　②9千克　　③8千克　　④1千克

6. 1只鸭子和2只鸡共重10千克，1只鸭子重4千克，平均每只鸡重（　　）千克。

①6　　②3000　　③3　　④2

二、填一填。（每空1分，共24分）

1. 在（　　）里填上合适的质量单位。







4（　　）　　600（　　）　　5（　　）　　2（　　）







28（　　）　　500（　　）　　1000（　　）　　600（　　）

2. 一盒饼干重550克，盒子重100克，饼干重（　　）克。

3. 6千克 =（　　）克　　5000克 =（　　）千克

3千克 =（　　）克　　3400克 =（　　）千克（　　）克

4700克 =（　　）千克（　　）克

4. 把1千克、600克、400克的物品都放在天平上使天平处于平衡状态，应使（　　）放在一端，（　　）放在另一端。

5. 在◯里填上“>”“<”或“=”。

999克◯1000克　　300克◯400克　　7千克◯6900克

800克◯8千克　　6000克◯6克　　2千克200克◯2002克

三、估一估，连一连。（8分）



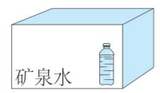



150克　　13千克　　2千克　　1克

四、下面的单位合适吗？在合适的单位后面画“√”，不合适的单位请改正过来。（14分）

周末小伟和妈妈去超市，买了1箱牛奶重6000千克（　　），1袋大米重15克（　　），1条鱼重2克（　　），6个苹果重2千克（　　），1包瓜子重450克（　　），1管牙膏重240千克（　　），1支铅笔长18克（　　）。

姓名　学号　班级　学校

密　封　线



荣德基好卷
微信公众号
教辅资料站
关注微信公众号“教辅资料站”获取更多学习资料

五、把这些小动物按体重排一排。（每题 4 分，共 8 分）

1.



500 克　　2 千克　　20 千克　　1500 克

（　　）＜（　　）＜（　　）＜（　　）

2.



60 千克　　660 克　　88 千克　　8000 克

（　　）＜（　　）＜（　　）＜（　　）

六、看图填一填。（6 分）



 =2 kg　　 =（　　）kg　　 =（　　）kg

七、走进生活，解决问题。（共 28 分）

1. 杯子里的水有多重？（4 分）



2. 一盒茶叶，茶叶与盒子共重 1200 克，盒体标签上印着“净含量：1 千克”，这个盒子重多少克？（4 分）

3.



10 千克苹果　　6000 克苹果

（1）右篮添上（　　）千克苹果，两边就一样重了。（2 分）

（2）你还能想出其他的方法使两边一样重吗？写一写。（4 分）

4.（8 分）



3 元/500 克　　2 元/500 克　　8 元/500 克



5. 现在有一台天平，只有 3 个砝码，分别是 20 克、50 克和 100 克，你能用这台天平称出 130 克的食盐吗？（6 分）

荣德基好卷
微信公众号
教辅资料站
关注微信公众号“教辅资料站”获取更多学习资料
自己说说
老师点评
家长点评
密
封
线

姓名 学号 班级 学校

密 封 线

豆点提示：请不要在密封线内答题哦！

荣德基好卷 2年级 数学 下 R版

第9单元 跟踪检测卷

数学广角——推理

时间：60分钟　满分：100分

题号	一	二	三	四	总分
得分					

一、选一选。（把正确答案的序号填在括号里。每题2分，共10分）

1. 三个小朋友分别出生在福州、莆田和泉州三个城市，青青出生的城市是（　　）。

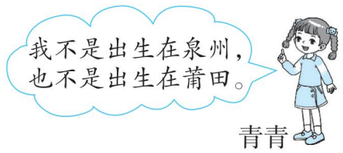

①泉州　　②莆田

③福州　　④无法确定

2. 三个小朋友假期里分别在三个兴趣班学习，学的是唱歌、美术和舞蹈。



请你猜一猜，小云学的是（　　）。

①唱歌　　②美术　　③舞蹈　　④无法确定

3. 今天是“六一”儿童节，新华书店抽奖结果揭晓啦！大奖的号码是由6、8、9组成的三位数，这个三位数十位上的数字不是最大的，个位上的数字是最小的。大奖的号码是（　　）。

①689　　②896　　③986　　④869

4. 明明、云云、红红三人的妈妈，其中有一位是护士，有一位是教师，有一位是司机。你推理出云云的妈妈是（　　）。

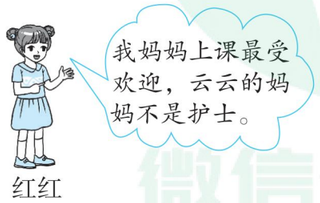

①护士　　②教师

③司机　　④无法确定

5. 在下面的方格中，每行、每列都有1～4这四个数，并且每个数在每行、每列都只出现一次。A是（　　）。

①1

②2

③3

④4

2	3		
A			3
		2	
4			

二、填一填。（每题6分，共30分）

1. 英语测试，天天、丽丽、伟伟三人获得了前三名，丽丽是第（　　）名，伟伟是第（　　）名，天天是第（　　）名。

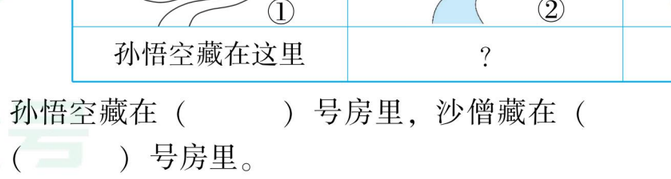

2. 有三张卡片，上面分别标有5、9、0，红红、东东、婷婷每人拿了一张。红红拿的不是5，东东拿的是最大的一位数。他们分别拿的是几？

红红	东东	婷婷

3. 乐乐、欢欢、聪聪、文文比赛跑步，乐乐不是最快的，但比欢欢、聪聪快，欢欢比聪聪慢。第一名是（　　），第二名是（　　），第三名是（　　），第四名是（　　）。

4. 下面是一个圆、一个三角形、一个正方形的一部分。图①是（　　），图②是（　　），图③是（　　）。

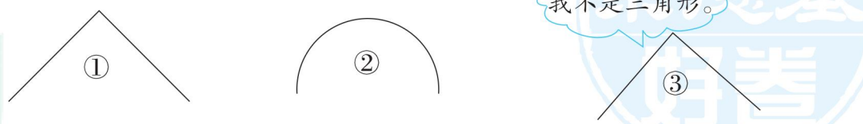

5. 孙悟空、沙僧和八戒分别藏在几号房里？

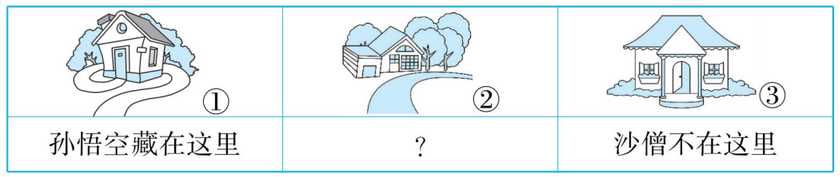

孙悟空藏在（　　）号房里，沙僧藏在（　　）号房里，八戒藏在（　　）号房里。

荣德基好卷 微信公众号 教辅资料站
关注微信公众号“教辅资料站”获取更多学习资料

三、我会按要求解决问题。（共 31 分）

1. 我会连。（三个小朋友各跳了多少下？9 分）



65下　　60下　　56下

2. 在方框里填上 1~9，每个竖式中的数字不能重复。（10 分）

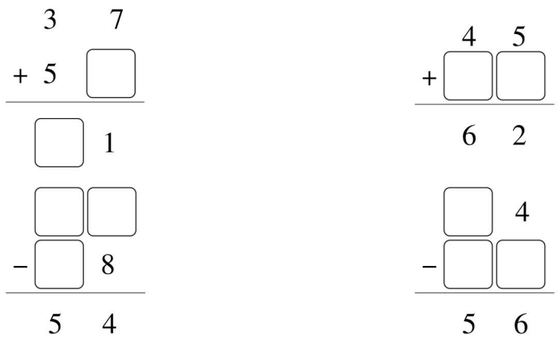

3. 我会分析。（12 分）

赵老师、李老师、王老师分别教语文、数学、英语中的一门。

语文老师不姓李，李老师上课不带三角尺和米尺，赵老师和数学老师是好朋友。

正确的画“√”，不正确的画“×”，并填空。

	数学	英语	语文
赵老师			
李老师			
王老师			

从表格中得出，赵老师教（　　），李老师教（　　），王老师教（　　）。

四、走进生活，我会推理。（共 29 分）

1. 勤劳的黑兔、白兔和灰兔是好朋友，一只种萝卜，一只种白菜，一只种南瓜。白兔和黑兔收到了好朋友送的南瓜，黑兔帮助好朋友去萝卜地里施肥。黑兔、白兔和灰兔分别种的是什么？（9 分）



2. 根据下面的信息，猜一猜，方方、林林和天天的爸爸各是什么职业？（9 分）

方方、林林和天天三人爸爸的职业分别是工人、解放军和医生中的一种。

A. 方方的爸爸不是工人；

B. 林林的爸爸不是医生；

C. 方方的爸爸和林林的爸爸正在听解放军爸爸讲“一箭多星”的发射技术。

3. 在下面的格子中，每行、每列都有“我、爱、福、建”这四个字，并且每个字在每行、每列中都只出现一次。请你把空白部分补充完整。（11 分）

	爱		
		我	建
我			
		福	

荣德基好卷
微信公众号
教辅资料站
关注微信公众号“教辅资料站”获取更多学习资料

自己说说　老师点评　家长点评

密　封　线

荣德基 好卷

期末复习冲刺卷 模块过关卷（一）

计算的挑战

2年级 数学 下 R版

时间：60分钟　满分：100分

题号	一	二	三	四	总分
得分					

姓名　学号　班级　学校　密　封　线

温馨提示：请不要在密封线内答题哦！

一、选一选。（把正确答案的序号填在括号里。每题2分，共14分）

1. 如果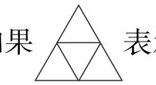表示36，那么△表示（　　）。

①36　②4　③9　④6

2. 用两个0和两个6组成的四位数中，一个零都不读的数是（　　）。

①6600　②6060　③6006　④以上都不对

3. 要使4□85＞4485，□里应有（　　）种填法。

①3　②4　③5　④6

4.（　　）的得数在820～850之间。

①340＋533　②937－96　③620＋255　④1000－200

5. 72减去45的差除以9，算式是（　　）。

①72－45÷9　②(72－45)÷9　③72＋45÷9　④72÷9＋45

6. 观察图形排列的规律：△□○☆△□○☆△□○☆△□……第34个图形是（　　）。

①△　②□　③○　④☆

7. 若20÷△＝5，☆＋☆＋△＝20，则☆×△＝（　　）。

①4　②12　③16　④32

二、填一填。（每空1分，共25分）

1. 计算62－18÷3时，第一步要先算（　　）法；计算21÷(3＋4)时，第一步要先算（　　）法。

2. 1300－500，可以看作（　　）个百减（　　）个百，得（　　）个百，就是（　　）。

3. 24÷6＝□，口诀：_____；54÷9＝□，口诀：_____。

4. 在（　　）里填上合适的质量单位。


3（　　）


230（　　）


450（　　）


5（　　）

5. 左图中，第一杯大约有1000粒豆子，第二杯大约有（　　）粒豆子，（　　）杯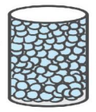大约是10000粒豆子。

6. 比最大的三位数多1的数是（　　），它是（　　）位数。

7. 4千克＝（　　）克　　7000克＝（　　）千克

10000克＝（　　）千克　　1千克＋800克＝（　　）克

8. 卡片上最大能填几？


×3＜19


8×□＜45


52＞7×□

三、计算挑战。（共35分）

1. 看谁算得又对又快。（每题1分，共8分）

45÷9＝　　48÷6＝　　340－80＝　　350＋70＝

680－600＝　　63÷9＝　　70÷8＝　　23÷7＝

2. 列竖式计算。（每题2分，共12分）

40÷7＝　　57÷8＝　　32÷6＝

42÷7＝　　60÷8＝　　38÷4＝

荣德基好卷　微信公众号 教辅资料站
关注微信公众号“教辅资料站”获取更多学习资料

3. 计算下面各题。（每题 3 分，共 9 分）

58 − 29 + 35　　45 − 28 ÷ 7　　（27 + 18）÷ 5

4. 在◯里填上“ + ”“ − ”“ × ”或“ ÷ ”。（每题 1 分，共 6 分）

12 ◯ 3 = 4　　8 ◯ 4 = 32　　24 ◯ 4 = 20

3 ◯ 5 = 8　　72 ◯ 8 = 9　　800 ◯ 400 = 1200

四、走进生活，解决问题。（共 26 分）

1. 李明排在第 16 个，第几次才能进去？（5 分）



2. 同学们去野营。二（1）班 24 人，二（2）班 30 人，共需要搭多少顶帐篷？（5 分）



3. 小晨准备用一星期（7 天）看完一本 60 页的故事书，第一天看了 12 页，剩下的平均每天看几页？（5 分）

4. 我们要包 5 盘饺子，每盘 8 个。（5 分）



5. 各种水果价目表如下。

			
4 元/500 克	3 元/500 克	12 元/500 克	6 元/500 克

（1）买 1 千克桃子和 1500 克苹果，需要多少钱？（3 分）

（2）你还能提出什么数学问题？并解答。（3 分）

关注微信公众号“教辅资料站”获取更多学习资料

荣德基 好卷

2年级 数学 下 R版

期末复习冲刺卷 模块过关卷（二）

统计与几何

时间：60分钟　满分：100分

题号	一	二	三	四	五	总分
得分						

一、选一选。（把正确答案的序号填在括号里。每空4分，共20分）

1. 下面属于平移现象的是（　　）。



①　②　③　④

2. 下列是我国几家银行的标志，其中不是轴对称图形的是（　　）。

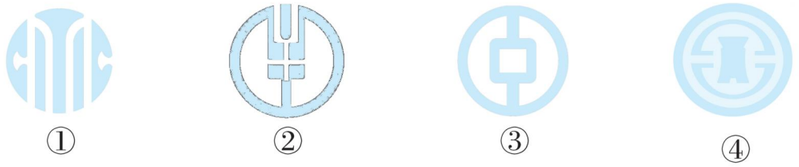

①　②　③　④

3. 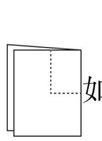如左图，将一张长方形纸对折后，沿虚线剪掉一个长方形，打开后得到的图案是（　　）。



①　②　③　④

4. 二（1）班2名同学正在统计学校门口10分钟内所通过的各种交通工具的数量。

种类	客车	货车	面包车	小轿车
辆数	20	15	35	40

（1）

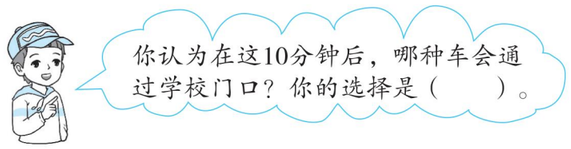

①小轿车　②面包车　③客车　④都有可能

（2）



①小轿车　②面包车　③货车　④都有可能

二、填一填。（每空1分，共27分）

1. 在（　　）里填上“平移”或“旋转”。

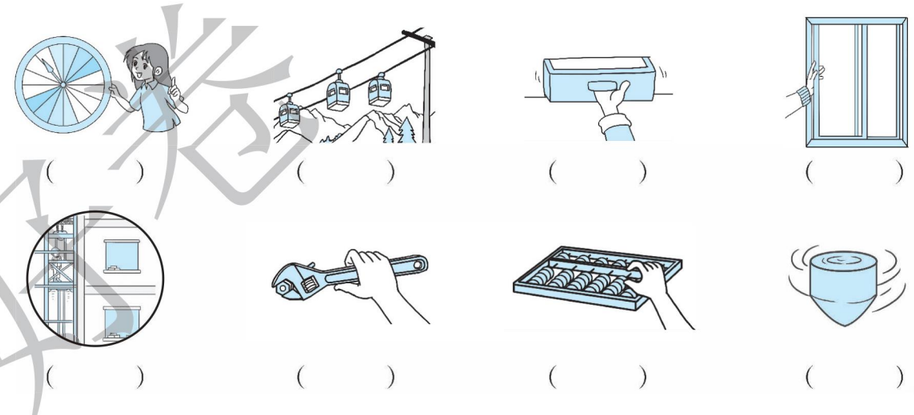

（　　）（　　）（　　）（　　）

（　　）（　　）（　　）（　　）

2. 下面的图形是轴对称图形的画“√”，不是的画“×”。



（　　）（　　）（　　）（　　）（　　）

3. 根据图中物体的运动现象，填“平移”或“旋转”。

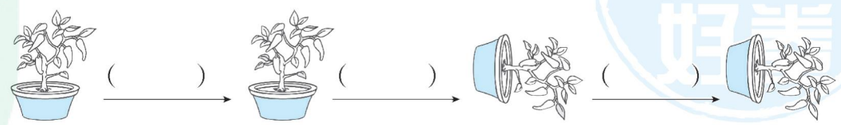

（　　）（　　）（　　）

4. 下面的图案都是轴对称图形，你能猜猜整个图案是什么吗？写在括号里。



（　　）（　　）（　　）（　　）（　　）

姓名　学号　班级　学校

密　封　线



荣德基 好卷 真题卷 微信公众号 教辅资料站
关注微信公众号“教辅资料站”获取更多学习资料

5. 下面是二（3）班同学出生季节统计情况。

春	夏	秋	冬
正正正正正丁	正正	正正丁	正丁

（1）在秋季出生的有（　　）人，比在春季出生的少（　　）人。

（2）在春季和冬季出生的共有（　　）人。

（3）在秋季出生的比在冬季出生的多（　　）人。

（4）在（　　）季出生的比在（　　）季出生的多 2 人。

三、画一画。（16 分）

这些轴对称图形都被遮住了一半，请你把图画完整。

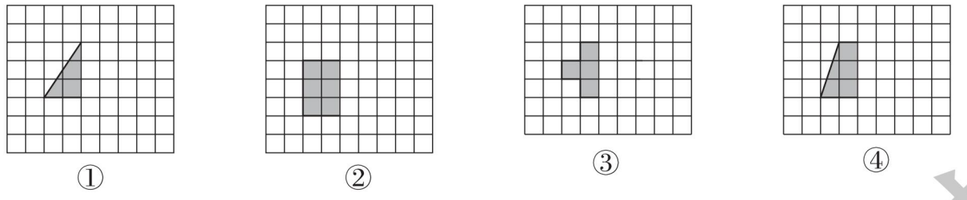

四、下面的图形分别是从哪张对折后的纸上剪下来的？请连一连。（8 分）

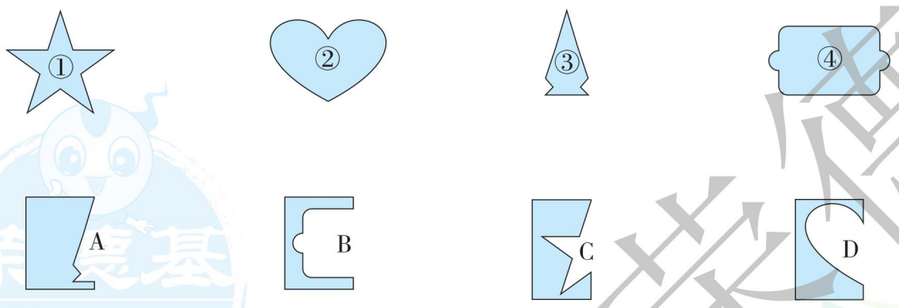

五、走进生活，我会统计。（共 29 分）

1. 下面是 4 名同学调查的本班同学的鞋码情况。



（1）把他们统计的结果填入表中。（4 分）

鞋码	29 码	30 码	31 码	32 码
人数				

（2）穿什么鞋码的同学最多？穿什么鞋码的同学最少？（5 分）

（3）马上要进行体操比赛，如果让你去买运动鞋，你会怎么买？为什么？（5 分）

2. 下面是二（1）班刘云同学调查的本班同学春游最喜欢去的地方统计表。

地方	动物园	游乐园	植物园
人数	11	21	10

（1）二（1）班一共有多少人？（5 分）

（2）你还能提出其他数学问题并解答吗？（5 分）

（3）如果让你组织这次春游活动，你有什么好的建议？为什么？（5 分）

荣德基好卷
微信公众号
教辅资料站
关注微信公众号“教辅资料站”获取更多学习资料
自己说说
老师点评
家长点评
密
封
线

荣德基 好卷 2年级 数学 下 R版

期末复习冲刺卷 模块过关卷（三）

实际应用

时间：60分钟　满分：100分

题号	一	二	三	四	总分
得分					

一、选一选。（把正确答案的序号填在括号里。每题2分，共16分）

1. 10000里面有（　　）个100。

①10　　②100　　③1000　　④10000

2. 一个四位数，十位上的数比百位上的数多2，千位上的数是百位上的数的3倍，个位上的数是0。这个数可能是（　　）。

①6210　　②6240　　③9530　　④9310

3. 除数是一位数，商是9，余数是8，被除数是（　　）。

①98　　②89　　③80　　④81

4. 一本书，丁丁每天看5页，已经看了6天，还有36页没有看，这本书一共有多少页？正确的列式是（　　）。

①5＋6＋36　　②5×6＋36　　③36－5×6　　④36÷6×5

5. 如果只买一瓶饮品，第（　　）种最便宜。

①



48元

②



56元

③



36元

④



18元

6. 下列式子进行计算时，用的口诀与众不同的是（　　）。

①21÷7　　②24÷6　　③6×4　　④24÷4

7. 5000克棉花（　　）5千克铁块（质量作比较）。

①＞　　②＜　　③＝　　④无法确定

8. 按规律填数，方框内应填（　　）。

16	45
23	14

①39　17

18	47
21	12

②39　27

20	
19	10

③49　27

22	51
	8

④49　17

二、填一填。（第4题6分，其余每空1分，共25分）

1. 厦门大学被誉为“南方之强”，截至2019年3月，厦门大学专任教师中拥有博士学位的共有2206人。横线上的数读作（　　），它是由（　　）个千、（　　）个百和（　　）个一组成的。

2. 希望小学有学生803人，其中女生有395人，男生大约有（　　）人。

3. 8个花盆，每个花盆种2棵花，一共种（　　）棵花。8盆花摆成两排，一排摆2盆，另一排摆（　　）盆。

4. 三个小朋友踢毽子，分别踢了30下，45下，26下。



小平踢了（　　）下，小雪踢了（　　）下，小力踢了（　　）下。

5. 28里面有（　　）个4，42里面有（　　）个6，（　　）比7个8少8。

6. 学校举行运动会，要在操场东侧插彩旗。按“三红二绿一黄”的顺序排列，第34面彩旗是（　　）色的。

7. 用2、7、0、0组成的最大的四位数是（　　），最小的四位数是（　　），只读一个零的最大的四位数是（　　）。

8. 有一堆苹果，比30个多，比40个少，分得的份数和每份的个数同样多，这堆苹果有（　　）个。

9. 亮亮折了27只纸鹤，红红比亮亮多折了35只，他俩一共折了（　　）只纸鹤。

10. 升国旗、拉抽屉、玩滑滑梯等属于（　　）现象，荡秋千、转动汽车方向盘等属于（　　）现象。

11. 每个盘子放8个草莓，放43个草莓至少需要（　　）个盘子。

姓名　学号　班级　学校

密　封　线

豆点提示：请不要在密封线内答题哦！

荣德基好卷　微信公众号　教辅资料站

关注微信公众号“教辅资料站”获取更多学习资料

三、计算挑战。（共 26 分）

1. 看谁算得又对又快。（每题 1 分，共 8 分）

20 + 300 =　　500 + 800 =　　64 ÷ 7 =　　42 − 12 ÷ 6 =

18 ÷ 6 =　　72 ÷ 8 =　　56 − 36 =　　9 × (2 + 2) =

2. 列竖式计算。（每题 3 分，共 9 分）

45 ÷ 9 =　　70 ÷ 8 =　　38 ÷ 7 =

3. 计算下面各题。（每题 3 分，共 9 分）

74 − 29 + 36　　50 − 30 ÷ 5　　48 ÷ (25 − 19)

四、走进生活，解决问题。（共 33 分）

1. 一本书共 97 页，毛毛已经看了 61 页。（6 分）



2. 4 只青蛙能都跳上去吗？（6 分）



3. 在下边的方格中，每行、每列都有 1 ~ 4 这四个数，并且每个数在每行、每列都只出现一次。B 应该是几？（6 分）

	3		
2			B
4		3	
	1		

4. 手套原来 12 元 1 双，现在换季促销，4 双 28 元。现在每双多少元？现在每双比原来便宜多少元？（6 分）

5. 25 人去秋游。

（1）如果都坐大车，至少需要几辆大车？（3 分）


限乘4人


限乘7人

（2）如果都坐小车，至少需要几辆小车？（3 分）

（3）如果想让 25 人都坐上车，而且没有空位，那么应该坐（　　）辆大车和（　　）辆小车。（3 分）

荣德基好卷
微信公众号 教辅资料站
关注微信公众号“教辅资料站”获取更多学习资料
自己说说
老师点评
家长点评
密 封 线

荣德基 好卷

2年级 数学 下 R版

期末复习冲刺卷 模块过关卷（四）

常考易错题综合

时间：60分钟　满分：100分

题号	一	二	三	四	总分
得分					

一、选一选。（把正确答案的序号填在括号里。每题2分，共16分）

1. 100张一共是（　　）元。

①100　②200　③1000　④10000

2. 把18平均分成3份，每份是6，算式是（　　）。

①3×6=18　②18÷6=3　③18÷3=6　④6×3=18

3. 下面属于旋转现象的是（　　）。

①水车的转动　②热气球升空　③电梯上下移动　④拉抽屉

4. 商是6的算式是（　　）。

①2×3　②1+5　③36÷6　④18−12

5. 要想得到下面左边的图案，应该将对折后的正方形纸按（　　）的方式剪掉涂色部分。



6. 下列各数中的“5”，其中含有表示5个百的数是（　　）。

①5025　②5250　③2505　④2055

7. 钟面上，分针从6旋转到9，经过的时间是（　　）。

①3分　②15分　③20分　④3小时

8. 一组图形的排列顺序是○△▱□○△▱□○△▱□……那么第35个图形是(　　)。

①△　②□　③○　④▱

二、填一填。（每空1分，共26分）

1. 2700里面有（　　）个百；10个一千是（　　）。

5555是（　　）位数，最高位是（　　）位。

2. □里最大能填几？

6□29<6700　　3672>□428　　1500>1□95

3. 在□÷8=7……□中，被除数最大是（　　），最小是（　　）。

4. 在计算48÷(8−2)时，应先算（　　）法，这道题的结果是（　　）。

5. 在（　　）里填上合适的质量单位。





300（　　）　150（　　）　62（　　）　4（　　）

6. 一根绳子长16米，对折再对折后，每段长（　　）米。

7. 在下面的方格中，每行、每列都有1～4这四个数，并且每个数在每行、每列都只出现1次。A是（　　），B是（　　）。

1			2
A	4		
3		B	
		2	C

8. 在○里填上“>”“<”或“=”。

2485 ○ 2458　　1千克 ○ 900克　　13−6×2 ○ (13−6)×2

3600 ○ 360　　3060克 ○ 4千克　　21÷3×4 ○ 40÷5

9. （1）50−36=14　　（2）4×6=24

14÷7=2　　80−24=56

综合算式：(　　)　　综合算式：(　　)

三、计算挑战。（共26分）

1. 看谁算得又对又快。（每题1分，共8分）

300+500=　　1300−500=　　81÷9=　　63÷9=

15÷4=　　3000−1000=　　48÷8=　　56÷7=

姓名　学号　班级　学校

密　封　线



荣德基好卷
微信公众号
教辅资料站
关注微信公众号“教辅资料站”获取更多学习资料

2. 列竖式计算。（每题 3 分，共 9 分）

23 ÷ 3 =　　50 ÷ 6 =　　67 ÷ 9 =

3. 计算下面各题。（每题 3 分，共 9 分）

27 ÷ 3 × 6　　16 − 7 × 2　　(14 − 7) × 9

四、走进生活，解决问题。（共 32 分）

1. 至少要租多少辆小汽车？（6 分）

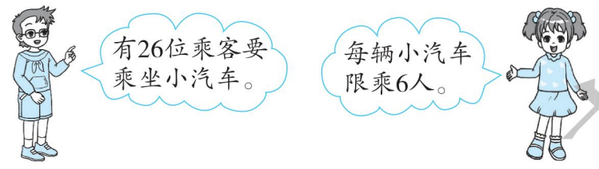

2. 爷爷感冒了，医生给他开了一瓶药。这瓶药够吃多少天？（6 分）

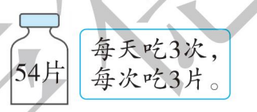

3. 有一捆 27 米长的绳子，剪下 7 米长做长跳绳，剩下的做 3 米长的短跳绳，最多能做多少根短跳绳？（6 分）

4. 小老鼠偷吃水果，它们三个分别偷吃了哪种水果？（7 分）



5. 下面是动物园里动物数量的统计情况。（每个□表示 1 只动物）



（1）（　　）最多，（　　）最少。（2 分）

（2）猴子比大象多（　　）只。（1 分）

（3）如果每个□表示 2 只动物，上面的数据各是多少？完成下面的表格。（4 分）

数量	（　　）只	（　　）只	（　　）只	（　　）只

荣德基好卷
微信公众号 教辅资料站
关注微信公众号“教辅资料站”获取更多学习资料

自己说说　老师点评　家长点评
密　封　线

荣德基 好卷

2年级 数学 下 R版

期末复习冲刺卷

期末测试卷

时间：60分钟　满分：100分

题号	一	二	三	四	五	六	总分
得分							

一、选一选。（把正确答案的序号填在括号里。每题1分，共8分）

1. 下面图形中，不是轴对称图形的是（　　）。

①　②　③　④

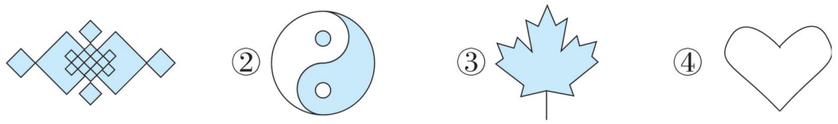

2. 右边的秤最多能称（　　）的物体。



①5千克　②3千克　③500克　④5000千克

3. 下面四个数中，最接近6000的是（　　）。

①5860　②6150　③5980　④5900

4. 在计算16＋4×5时，要先算（　　）。

①4×5　②16＋4　③16×5　④16＋5

5. 小莉上二年级，她的体重大约是（　　）。

①3千克　②30千克　③300克　④300千克

6. 小红看一本200页的故事书，第一周看了80页，第二周（7天）每天看10页，第三周从第（　　）页看起。

①81　②91　③150　④151

7. 一瓶油连瓶重1800克，用掉一半的油后连瓶重1千克，瓶重(　　)克。

①800　②1000　③200　④1600

8. 在△÷□＝2……7中，可以用式子（　　）表示被除数△。

①□÷2＋7　②□×2－7　③(□＋7)÷2　④□×2＋7

二、填一填。（每空1分，共22分）

1. 数位顺序表右起第一位是（　　）位，万位是右起第（　　）位。

2. 一个数由3个千、4个十和5个一组成，这个数是（　　），读作（　　），它是（　　）位数，最高位是（　　）位。

3. 把一堆花生平均分给4个小朋友，如果有剩余，可能剩（　　）颗。

4. 8998后面的连续3个数是（　　）、（　　）、（　　）。

5. 4000克＝（　　）千克　　9千克＝（　　）克

6. 在4500、2806、7900中，最大的数是（　　），一个零也不读的是（　　），只读一个零的是（　　）。

7. 在抗洪抢险中，某村有34人被困。每条船最多坐5人，至少要准备（　　）条船才能让被困人同时脱险。

8. 在○里填上“＞”“＜”或“＝”。

6910 ○ 6901　　946 ○ 1201　　2000克 ○ 700千克

1000－300 ○ 700　　48÷6 ○ 48÷8　　200千克 ○ 200克

三、画一画，写一写。（每题2分，共6分）

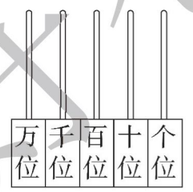

3 2 0 5

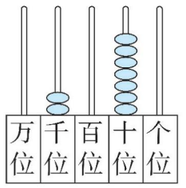

(　　)

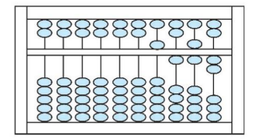

(　　)

四、计算挑战。（共30分）

1. 看谁算得又对又快。（每题1分，共12分）

21÷3＝	24÷6＝	36÷6＝	45÷9＝
47÷5＝	58÷8＝	22÷3＝	55÷8＝
250＋300＝	6000＋600＝	700＋280＝	250－50＝

2. 列竖式计算。（每题3分，共9分）

29÷8＝　　44÷5＝　　64÷9＝

3. 计算下面各题。（每题3分，共9分）

81－33＋47　　64－(36＋8)　　(78－69)×4

姓名　学号　班级　学校

密　封　线

豆点提示：请不要在密封线内答题哦！

荣德基 好卷 微信公众号 教辅资料站

关注微信公众号“教辅资料站”获取更多学习资料

五、我会推理。(连一连，6分)

小军的玻璃球比小亮多。小芳的玻璃球比小军少。小亮的玻璃球比小芳多。



六、走进生活，解决问题。(共28分)

1. 停车8小时，付给停车场100元。要找回多少钱？(5分)



2. 程老师和张老师带36名学生一起去划船，每条船最多坐4人，至少需要租几条船？(5分)

3. 张一和王丁都是集邮爱好者。张一给王丁几枚后，两人的邮票一样多？(6分)

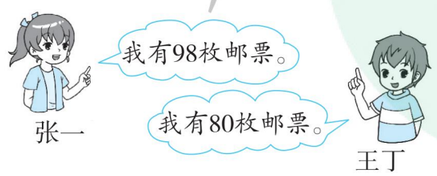

4. 服装店。

(1) 一件夹克比一件T恤贵多少钱？(2分)



(2) 买一件夹克和一条裤子一共需要多少钱？(2分)

(3) 你还能提出其他数学问题并解答吗？(2分)

5. 动物王国举行大选，每个候选人得票情况如下：

(1) 根据下面的结果完成统计表。(2分)

熊猫	猴子	兔子	狮子
正一	正下	丅	正正

动物	熊猫	猴子	兔子	狮子
票数				

(2) 我认为（　　）应当选为大王。(2分)

(3) 小鹿因为有事没参加，如果小鹿也来投票，结果会怎样？(2分)

荣德基好卷
荣德基好学者
微信公众号
教辅资料站
关注微信公众号“教辅资料站”获取更多学习资料

自己说说
老师点评
家长点评
密
封
线

荣德基 好卷

2年级 数学 下 R版

期末复习冲刺卷

福建省仿真模拟卷

时间：60分钟　满分：100分

题号	一	二	三	四	五	总分
得分						

姓名 学号 班级 学校

密 封 线

豆点提示：请不要在密封线内答题哦！

一、选一选。（把正确答案的序号填在括号里。每题2分，共16分）

1. 在算盘千位上拨一颗上珠，十位上拨一颗下珠，这个数表示（　　）。
①5010　②501　③1050　④105

2. 有29个桃，至少拿走（　　）个，剩下的正好能平均分给9名同学。
①1　②2　③3　④4

3. 是从对折后的纸（　　）上剪下来的。



①　②　③　④

4. 下面哪个数最接近80？（　　）。
①74　②79　③83　④82

5. 下图中商场离公园大约有（　　）米。

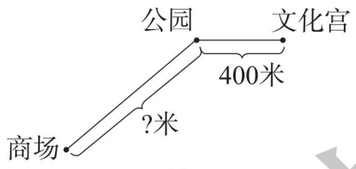

①360　②500　③800　④1200

6. 用两块三角尺拼成的角是直角的是（　　）。



①　②　③　④

7. 用2个●在

千位	百位	十位	个位

中摆一摆，能摆出的四位数有（　　）种可能。
①2　②3　③4　④5

8. 小红有16元，小明有10元，小红再给小明（　　）元，两人的钱就一样多。
①2　②3　③4　④6

二、填一填。（第1题2分，其余每空1分，共25分）

1. 把27个○平均分成3份，每份是（　　）个，列出算式：（　　）÷（　　）=（　　）。

2. 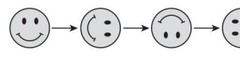左边图形的变化是（　　）现象。（填“平移”或“旋转”）

3. 与3999相邻的两个数是（　　）和（　　）。

4. （　　）里最大能填几？
（　　）×8<63　　69>9×（　　）
（　　）×6<34　　9×（　　）<74

5. 八千零九写作（　　）；3050读作（　　）；4个千、6个百和5个一组成的数是（　　）。

6. 填上合适的单位。

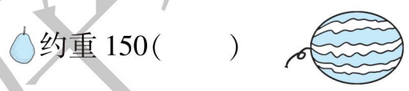
约重150（　　）　约重3（　　）


身高130（　　）

7. 在◯里填上“>”“<”或“=”。
45÷9◯54÷9　　3250◯3205　　2000克◯2千克
6×6◯36÷6　　10000◯9999　　1千克◯900克

8. □÷△=6……5，在这个算式中被除数最小是（　　）。

9. 一台洗衣机售价3012元，一台冰箱售价7958元，一台洗衣机比一台冰箱大约便宜（　　）元。

10. 小兔、小猴、小狗赛跑，小兔说：“小猴比我慢。”小狗说：“小猴比我快。”那么第一名是（　　），第二名是（　　）。

三、计算挑战。（共21分）

1. 看谁算得又对又快。（每题1分，共12分）

50+2000=	50−23=	38+24=	23÷5=
42÷7=	57+13=	72−59=	1700−800=
28+7=	4×9=	5300−2000=	32÷4×8=

2. 列竖式计算，带☆的要验算。（每题3分，共9分）
45÷7=　　☆847+573=　　393+126+247=

荣德基 好卷
微信公众号 教辅资料站
关注微信公众号“教辅资料站”获取更多学习资料

四、动手操作，智慧大脑。（共 10 分）

1. 在下面图形中加 1 条线段使图形有 3 个直角，并画出直角标记。（2 分）



2. 下面是二（1）班同学一次美术测验的成绩统计表。

优	良	及格	不及格
正正正一	正正丅	正丅	正

（1）请把上面统计的数据填入下表。（2 分）

等级	优	良	及格	不及格
人数				

（2）涂色表示各等级的人数。（1 个□表示 1 人）（4 分）

优 □□□□□□□□□□□□□□□□□□□□

良 □□□□□□□□□□□□□□□□□□□□

及格 □□□□□□□□□□□□□□□□□□□□

不及格 □□□□□□□□□□□□□□□□□□□□

（3）成绩为（　　）的人数最多，及格以上（包括及格）的有（　　）人。（2 分）

五、走进生活，解决问题。（共 28 分）

1. 有 30 根骨头，平均每只小狗能分到几根？（5 分）



2. 幼儿园买来 52 个皮球，每个箱子最多装 8 个，至少需要多少个箱子才能装完？（5 分）

3. 二（1）班同学要采集 85 个植物标本，第一天采集了 28 个，第二天采集的和第一天同样多。还要采集多少个植物标本？（5 分）

4. “六一”儿童节商店优惠促销。



原价：每个10元

优惠价：3个18元

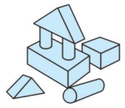

原价：每套12元5角

优惠价：每套8元

（1）优惠后每个皮球便宜多少钱？（3 分）

（2）小明用 50 元买了 1 个皮球后，剩下的钱最多可以买多少套积木？（4 分）

5. 李叔叔带 500 元买一套桌椅够吗？（6 分）



368 元



68 元



580 元



365 元

荣德基好卷
微信公众号
教辅资料站
关注微信公众号“教辅资料站”获取更多学习资料
自己说说
老师点评
家长点评
密
封
线

荣德基 好卷

参考答案及点拨

2年级 数学 下 R版 （大卷）

第 1 单元跟踪检测卷

数据收集整理

一、1.（1）游泳　钢琴　（2）6　钢琴

2.（1）苹果　梨　（2）38　（3）苹果

3.（1）文文　明明　（2）1　1　文文

（3）可能

4.（1）小轿车　9　（2）31　（3）48

二、1.（1）

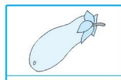	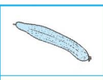		
√ √ √ √ √ √ √	正 正	正 正 丁	○○○○ ○○

（统计方法不唯一）

（2）西红柿　豆角　（3）5

（4）茄子和西红柿共有多少个？

7 + 12 = 19（个）

口答：茄子和西红柿共有 19 个。（答案不唯一）

2.（1）

图形				
个数	6	7	6	4

（2）① 23　② 

③  比 ○ 多 3 个。（答案不唯一）

3.（1）

姓名	龙龙	元元	兰兰	刚刚
票数	5	7	9	3

（2）兰兰　刚刚

（3）兰兰

（4）结果不变。因为不论王芳的票投给谁，兰兰的票数都是最多的。

【点拨】如果王芳投给票数第二多的元元，元元就有 7 + 1 = 8（票），8 还是小于 9，所以兰兰的票数还是最多。

4.（1）

品牌	甲品牌	乙品牌	丙品牌	丁品牌
台数	12	18	14	9

（2）5

（3）建议多进些乙品牌学习机。（答案不唯一）

5.（1）春　冬

（2）16 + 9 = 25（人）

25 + 12 = 37（人）

37 + 7 = 44（人）

口答：这个班一共有 44 人。

（3）12 − 7 = 5（人）

口答：喜欢冬季的同学比喜欢秋季的少 5 人。

（4）如果组织同学们去游玩，最好应安排在春季。

6.（1）踢球　套圈　（2）4

（3）最有可能参加踢球活动。

【点拨】是“最有可能”的情况，而不是“一定”的情况。

（4）

活动	跳绳	踢球	套圈	踢毽子
人数	12	18	4	10

【点拨】原来每个  表示 1 名同学，而现在每个  表示 2 名同学，说明现在各活动的人数是原来各活动的人数的 2 倍。

第 2 单元跟踪检测卷

表内除法（一）

一、1. ③　2. ②　3. ②　4. ③　5. ②　6. ③　7. ②　8. ④

二、1. 24　4　6　2. 12　除数　三四十二　4　3. 5　4. 30 ÷ 5 = 6　30 ÷ 6 = 5　5. 3　15 ÷ 5 = 3（个）　6. 12　5　【点拨】1 只小鸟有 2 条腿，1 只青蛙有 4 条腿。　7.（1）15　（2）5

三、1. 12　6　9　2　4　35　3　3　14　1　1　5　2. −　+　÷　−　×　−　÷　+　3. 4　8　4　25　1　4

四、1. 18 ÷ 3 = 6　2. 12 ÷ 2 = 6

五、1. 18 ÷ 6 = 3（次）　18 ÷ 3 = 6（个）

2.（1）6 × 2 = 12（条）

口答：2 盘一共有 12 条鱼。

（2）12 ÷ 3 = 4（条）

口答：每只小猫分得 4 条鱼。

3. 3 + 1 = 4（个）　12 ÷ 4 = 3（支）

口答：平均每个小朋友分 3 支棒棒糖。

【点拨】不要用 12 ÷ 3，因为豆豆和她的 3 个好朋友一共是 4 个小朋友。

4.（1）10 ÷ 2 = 5（个）

口答：一共可以挂 5 个大门。

（2）10 − 2 = 8（个）

口答：还剩 8 个。

5.（1）24 ÷ 6 = 4（辆）

口答：需要租 4 辆。

（2）24 ÷ 4 = 6（辆）

口答：需要租 6 辆。

第 3 单元跟踪检测卷

图形的运动（一）

一、1. ①　2. ①　3. ②　4. ③　5. ③

二、√　×　√　×　√　×　√　√

三、○　△　○　○　○　△　△　△

四、1. ①和 D　2. C 和④

五、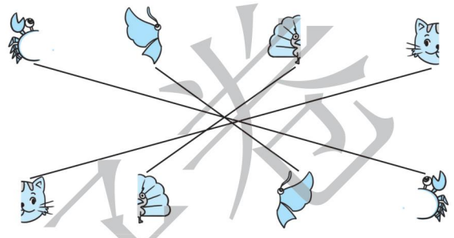

六、4　7　8

七、1. 

2. 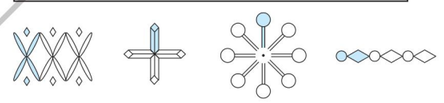

（答案不唯一）

八、1. 2　2. 老鼠　狮子　3. 旋转

九、1. 在得到的花边中，相邻的两个图案是对称的，相间的两个图案可以通过平移得到。

2. 观察整条花边，左起和右起的三个图案各为一组，这两组图案是对称的。

第 4 单元跟踪检测卷

表内除法（二）

一、1. ③　2. ②　3. ③　4. ③　5. ①　6. ①　7. ④　8. ②

二、1. 1　8 ÷ 8 = 1　2. 8　27　3. 8　9　4. 8　八九七十二　72 ÷ 8 = 9　5. 36　9 × 4 = 36（架）　6　36 ÷ 6 = 6（组）　【点拨】注意带上单位。　6. 8　7　7. 9　9　8. >　<　<　>　<　=

三、1. 9　48　40　72　8　9　55　12　40　9　16　7

2. 4　81　14　2　5（第 3 题答案不唯一）

3. −　×　÷　+　÷　×　÷　+

4. 36 ÷ 4　72 ÷ 9　35 ÷ 5　42 ÷ 7　45 ÷ 9

四、1.（1）36 ÷ 9 = 4（组）

口答：可以分成 4 组。

（2）36 ÷ 6 = 6（人）

口答：每组有 6 人。

2. 36 ÷ 4 = 9（元）　10 − 9 = 1（元）

口答：香瓜子现在每袋 9 元，现在每袋比原来便宜 1 元。

3. 42 ÷ 6 = 7（件）　56 ÷ 8 = 7（件）

口答：这些花能做 7 件标本，这些树叶能做 7 件标本。

4.（1）4 × 6 = 24（元）

口答：一共花了 24 元钱。

（2）24 ÷ 8 = 3（份）

口答：能买 3 份。

5.（1）6 × 8 = 48（元）

口答：一件上衣 48 元钱。

（2）36 ÷ 9 = 4（元）

口答：一支牙膏 4 元钱。

（3）买一双鞋的钱可以买多少条围巾？

36 ÷ 6 = 6（条）

口答：买一双鞋的钱可以买 6 条围巾。

【点拨】题目是要求提出用乘法或除法解决的问题，所以不能提出用加法或减法解决的问题。此题答案不唯一。

第 5 单元跟踪检测卷

混合运算

一、1. ②　2. ②　3. ②　4. ③　5. ③　【点拨】如果只买 6 本《故事书》，不能优惠，一共要花 6 × 8 = 48（元）；如果买 8 本《故事书》，可以优惠，每本 8 − 2 = 6（元），一共要花 6 × 8 = 48（元）。花同样多的钱，肯定买 8 本更实惠。　6. ④　7. ③　8. ①

二、1. 减　加　2. 乘　加　21　【点拨】加法在前，乘法在后，有的同学先算加法，是错误的。　3. 9　4. <　=　>　5. 31　6. 9　7. 小兔子一共采了多少个蘑菇

一共可以装几篮

（42 + 30）÷ 9 = 8（篮）

三、1.　5 + 3 × 8　　36 − 24 ÷ 6

= 5 + 24　　= 36 − 4

= 29　　= 32

关注微信公众号“教辅资料站”获取更多学习资料

42 − 18 + 12　　5 × (36 ÷ 9)
= 24 + 12　　= 5 × 4
= 36　　= 20
4 × 6 ÷ 3　　54 − (62 − 57)
= 24 ÷ 3　　= 54 − 5
= 8　　= 49

2. 28　4　(60 − 32) ÷ 7 = 4
8　48　6 × (64 ÷ 8) = 48

四、1. 42 + 4 × 6 = 66（元）

2. (56 − 24) ÷ 8 = 4（袋）

五、1. (27 + 29) ÷ 8 = 7（人）

口答：平均每行 7 人。

2. 8 × (8 − 6) = 16（元）

口答：小丽比小林多花 16 元钱。

【点拨】另一种方法是 8 × 8 − 8 × 6，但 8 × (8 − 6) 这种方法要简便和灵活些。

3. (24 − 6) ÷ 2 = 9（元）

口答：成人票一张 9 元钱。

4. (1) (50 − 29) ÷ 7 = 3（双）

口答：买了 1 辆玩具摩托车后还可以买 3 双袜子。

(2) 3 × 9 + 24 = 51（元）

口答：一共花了 51 元钱。

(3) 买 5 双袜子和 1 顶帽子共花多少钱？

5 × 7 + 9 = 44（元）

口答：买 5 双袜子和 1 顶帽子共花 44 元钱。

【点拨】第 (3) 题答案不唯一。

期中检测卷

一、1. ②　2. ①　3. ②　4. ②　5. ②　6. ④
7. ③　8. ④

二、1. 4　48　2. 42 ÷ 6 = 7　42 ÷ 7 = 6
3. 旋转　平移　4. 除　减
5. −　×　÷　+
6. 10　6　【点拨】先求出已知算式的结果，再求出括号里填的数。
7. 7　5
8. 中、田（答案不唯一）　9. 36　4

三、1. 10　18　30　6　8　5　9　0　9　1
36　2

2. 6 + 3 × 9　　(42 + 14) ÷ 7
= 6 + 27　　= 56 ÷ 7
= 33　　= 8
2 × 9 ÷ 3　　65 − 30 ÷ 5
= 18 ÷ 3　　= 65 − 6
= 6　　= 59

76 − (28 + 19)　　72 ÷ 8 ÷ 3
= 76 − 47　　= 9 ÷ 3
= 29　　= 3

3. 6　54　9 × (54 − 48) = 54
9　70　81 ÷ 9 + 61 = 70

四、1. 4 × 6 + 4 × 8 = 56（袋）

口答：一共运了 56 袋粮食。

2. 62 − (56 − 39) = 45（分）

口答：第二轮二（2）班得了 45 分。

3. 7 − 3 = 4（人）
2 × 7 + 4 = 18（人）

口答：一共有 18 人。

4. (1) 6 × 9 + 8 = 62（元）

口答：一共需要 62 元钱。

(2) 32 ÷ 8 = 4（辆）

口答：能刚好买 4 辆玩具汽车。

(3) 买 2 只玩具熊的钱可以买几个布娃娃？

9 × 2 ÷ 6 = 3（个）

口答：买 2 只玩具熊的钱可以买 3 个布娃娃。

【点拨】第 (2)(3) 题答案不唯一。

5. (1) 17　11　3

(2) 17 + 11 + 3 = 31（天）

口答：这个月共有 31 天，这个月属于冬季。

第 6 单元跟踪检测卷

有余数的除法

一、1. ③　2. ②　3. ③
4. ②　【点拨】共有 4 个小朋友，欢欢报的数除以 4，余数一定是 1。
5. ③　6. ①　7. ②　8. ④

二、1. 圈一圈略。
12 ÷ 5 = 2（组）……2（个）
16 ÷ 6 = 2（组）……4（个）
2. 5　5　3. 2　8
4. 8　5. 6　4
6. 8　71　【点拨】除数比余数大，余数是 7，除数最小是 8，用商 × 除数 + 余数求被除数。
7. 5　9　6　5　7　7

三、1. 3　3　6　2　8　2　7　3　5　1　7　1

2. 27 ÷ 6 = 4……3　　60 ÷ 8 = 7……4

$$\begin{array}{r} 4 \\ 6\overline{)27} \\ 24 \\ \hline 3 \end{array}$$

$$\begin{array}{r} 7 \\ 8\overline{)60} \\ 56 \\ \hline 4 \end{array}$$

83 ÷ 9 = 9……2　　47 ÷ 5 = 9……2

$$\begin{array}{r} 9 \\ 9\overline{)83} \\ 81 \\ \hline 2 \end{array}$$

$$\begin{array}{r} 9 \\ 5\overline{)47} \\ 45 \\ \hline 2 \end{array}$$

29 ÷ 9 = 3……2　　24 ÷ 7 = 3……3

$$\begin{array}{r} 3 \\ 9\overline{)29} \\ 27 \\ \hline 2 \end{array}$$

$$\begin{array}{r} 3 \\ 7\overline{)24} \\ 21 \\ \hline 3 \end{array}$$

四、1. 19 ÷ 3 = 6（组）……1（盆）

口答：第 19 盆是红颜色的花。

2. 47 ÷ 6 = 7（架）……5（人）

口答：最多可以做 7 架飞机模型。

3. 19 − 7 = 12（只）
12 ÷ 5 = 2（辆）……2（只）
2 + 1 = 3（辆）

口答：至少需要 3 辆小汽车。

【点拨】坐满 2 辆小汽车后，还有 2 只小动物没上车，剩下的 2 只小动物还需要 1 辆小汽车。

4. 32 ÷ 4 = 8（个）
22 ÷ 5 = 4（个）……2（个）
19 ÷ 2 = 9（个）……1（个）
4 < 8 < 9

口答：这些水果最多可以装成 4 个水果篮。

5. (1) 34 ÷ 4 = 8（辆）……2（人）

口答：最多可以坐满 8 辆车，会有剩余的人。

(2) 34 ÷ 6 = 5（辆）……4（人）
5 + 1 = 6（辆）

口答：至少要租 6 辆。

(3) 6 × 1 + 4 × 7 = 34（人）

口答：还可以租 1 辆面包车和 7 辆小汽车。

【点拨】第 (3) 题答案不唯一。

第 7 单元跟踪检测卷

万以内数的认识

一、1. ②　2. ①　3. ②　4. ③　5. ③　6. ④
7. ②

二、1. 一百　一百　一万　2. 5　1
3. 10000　100　10　4. 7　6　9
5. (1) 3　(2) 2　(3) 2
6. 5600　78　7. 8620　2068
8. 六千三百九十七　9008　9. 9

三、3020　三千零二十　5126　五千一百二十六
3500　三千五百　2602　二千六百零二

四、1. 3000　500　900　60　3000　1300　3700
4900　1500　1500　6100　2900
2. 0　8 或 9　9　0 或 1　9　0
3. >　<　>　=

五、1. 南京路小学　朝阳小学　希望小学
2. 300 + 280 = 580（个）
580 < 600

口答：剩下的气球不够。

3. 200 + 270 = 470（元）
470 − 400 = 70（元）

口答：明明剩下的钱不够，明明至少还要积攒 70 元钱。

4. (1) 180 + 290 + 370 + 300 = 1140（人）
1140 > 600

口答：一至四年级所有同学不能同一场次看话剧。

(2) 370 + 180 = 550（人）
300 + 290 = 590（人）

口答：一年级和三年级同一场次看，二年级和四年级同一场次看。

【点拨】遇到此类题，要学会最大数搭配最小数。

5. (1) 1204 ≈ 1000　6028 ≈ 6000　3915 ≈ 4000

口答：游玩的人数各接近 1000 人、6000 人、4000 人。

(2) 6000 − 1000 = 5000（人）

口答：游玩人数最多的比最少的大约多 5000 人。

第 8 单元跟踪检测卷

克和千克

一、1. ③　2. ③　3. ③　4. ③　5. ③　6. ③

二、1. 千克　克　克　千克
千克　克　克　克
2. 450　3. 6000　5　3000　3　400　4　700
4. 600 克、400 克　1 千克
5. <　<　>　<　>　>

三、

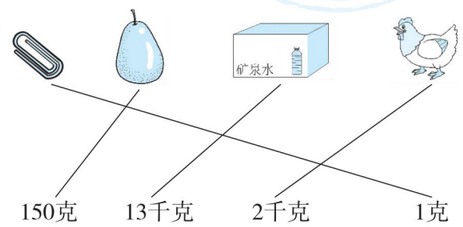

四、克　千克　千克　√　√　克　厘米

五、1. 500 克 < 1500 克 < 2 千克 < 20 千克

关注微信公众号“教辅资料站”获取更多学习资料

2. 660 克＜8000 克＜60 千克＜88 千克

六、4　8

七、1. 500－100＝400（克）

口答：杯子里的水重 400 克。

2. 1 千克＝1000 克

1200－1000＝200（克）

口答：这个盒子重 200 克。

3.（1）4　（2）答案不唯一，如：左篮去掉 4 千克苹果，两边就一样重了。

4. 涵涵：500＋500＝1000（克）

1000 克＝1 千克　3×2＝6（元）

500＋500＋500＋500＝2000（克）

2000 克＝2 千克　2×4＝8（元）

6＋8＝14（元）

口答：应付 14 元。

朵朵：500＋500＋500＋500＝2000（克）

2000 克＝2 千克　3×4＝12（元）

500＋500＝1000（克）　1000 克＝1 千克

8×2＝16（元）　12＋16＝28（元）

口答：应付 28 元。

5. 能。将 50 克和 100 克砝码放在天平的一端，再将 20 克砝码放在天平的另一端，然后向 20 克砝码所在的托盘中加食盐直到天平平衡，这样可以称出 130 克的食盐。（答案不唯一）

第 9 单元跟踪检测卷

数学广角——推理

一、1. ③　2. ③　3. ③　4. ③　5. ①

二、1. 三　二　一

2. 0　9　5　**【点拨】**先推理出东东拿的是 9，再推理出红红拿的是 0，那么婷婷拿的就是 5。

3. 文文　乐乐　聪聪　欢欢

4. 三角形　圆　正方形　5. ①　②　③

三、1.



2.

3 7 + 5 4 9 1	4 5 + 1 7 6 2	9 2 − 3 8 5 4	9 4 − 3 8 5 6

【点拨】第 3 个和第 4 个竖式答案不唯一。

3. ×　×　√　×　√　×

√　×　×　语文　英语　数学

四、1. 黑兔种的是白菜，白兔种的是萝卜，灰兔种的是南瓜。

2. 方方的爸爸是医生，林林的爸爸是工人，天天的爸爸是解放军。

3.

福	爱	建	我
爱	福	我	建
我	建	爱	福
建	我	福	爱

期末复习冲刺卷

模块过关卷（一）　计算的挑战

一、1. ③　2. ①

3. ③　**【点拨】**除了百位，两个数其余数位上的数都一样，5、6、7、8、9 都比 4 大，所以有 5 种填法。

4. ②　5. ②　6. ②　7. ④

二、1. 除　加　2. 13　5　8　800

3. 4　四六二十四　6　六九五十四

4. 千克　克　克　千克

5. 300　**【点拨】**答案不唯一，估成 200～400 粒都可以。

10

6. 1000　四

7. 4000　7　10　1800

8. 6　5　7

三、1. 5　8　260　420　80　7　8……6　3……2

2. 40÷7＝5……5　　57÷8＝7……1

$$\begin{array}{r}5\\7\overline{)40}\\35\\\hline5\end{array}\qquad\begin{array}{r}7\\8\overline{)57}\\56\\\hline1\end{array}$$

32÷6＝5……2　　42÷7＝6

$$\begin{array}{r}5\\6\overline{)32}\\30\\\hline2\end{array}\qquad\begin{array}{r}6\\7\overline{)42}\\42\\\hline0\end{array}$$

60÷8＝7……4　　38÷4＝9……2

$$\begin{array}{r}7\\8\overline{)60}\\56\\\hline4\end{array}\qquad\begin{array}{r}9\\4\overline{)38}\\36\\\hline2\end{array}$$

3. 58－29＋35　　45－28÷7

＝29＋35　　＝45－4

＝64　　＝41

（27＋18）÷5

＝45÷5

＝9

4. ÷　×　－　＋　÷　＋

四、1. 16÷4＝4（次）

口答：第 4 次才能进去。

2. 24＋30＝54（人）　54÷6＝9（顶）

口答：共需要搭 9 顶帐篷。

3. 60－12＝48（页）　7－1＝6（天）

48÷6＝8（页）

口答：剩下的平均每天看 8 页。

【点拨】因为用了 1 天，所以还有 7－1＝6（天）。

4. 5×8－35＝5（个）

口答：还要包 5 个。

5.（1）500＋500＝1000（克）

1000 克＝1 千克

500＋500＋500＝1500（克）

2×6＋3×4＝24（元）

口答：需要 24 元。

（2）买 1 千克葡萄需要多少钱？

12＋12＝24（元）

口答：买 1 千克葡萄需要 24 元。（答案不唯一）

模块过关卷（二）　统计与几何

一、1. ②　2. ①　3. ①

4.（1）④　（2）①

二、1. 旋转　平移　平移　平移　平移　旋转

平移　旋转

2. √　×　√　√　×

3. 平移　旋转　平移

4. 8　台灯　中　A　五角星

5.（1）12　15　（2）34　（3）5

（4）秋　夏

三、

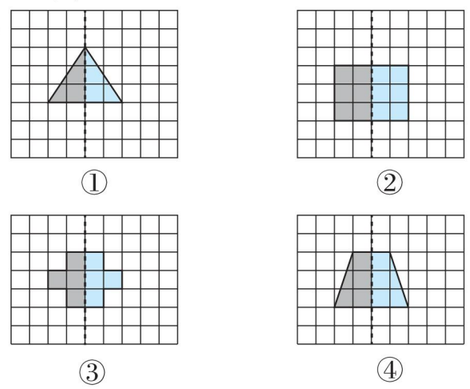

四、

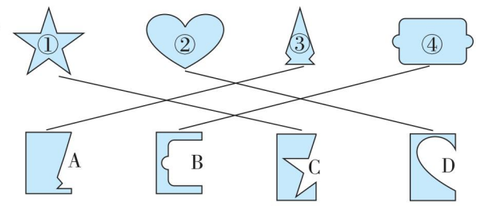

五、1.（1）4　13　14　3

（2）穿 31 码的同学最多，穿 32 码的同学最少。

（3）根据数据买相应鞋码的运动鞋，因为每个人脚的大小不一样。

2.（1）11＋21＋10＝42（人）

口答：二（1）班一共有 42 人。

（2）最喜欢去动物园和游乐园的比最喜欢去植物园的多多少人？

11＋21－10＝22（人）

口答：最喜欢去动物园和游乐园的比最喜欢去植物园的多 22 人。（答案不唯一）

（3）建议组织同学们去游乐园进行春游活动。因为最喜欢去游乐园的人最多。（答案不唯一）

模块过关卷（三）　实际应用

一、1. ②　2. ②　3. ②　4. ②　5. ②　6. ①

7. ③　8. ④

二、1. 二千二百零六　2　2　6

2. 400　3. 16　6

4. 30　26　45　**【点拨】**本题要将数的大小关系与推理相结合进行解题。

5. 7　7　48　6. 绿

7. 7200　2007　7020　8. 36　9. 89

10. 平移　旋转　11. 6

三、1. 320　1300　9……1　40　3　9　20　36

2. 45÷9＝5　　70÷8＝8……6

$$\begin{array}{r}5\\9\overline{)45}\\45\\\hline0\end{array}\qquad\begin{array}{r}8\\8\overline{)70}\\64\\\hline6\end{array}$$

38÷7＝5……3

$$\begin{array}{r}5\\7\overline{)38}\\35\\\hline3\end{array}$$

3. 74－29＋36　　50－30÷5

＝45＋36　　＝50－6

＝81　　＝44

关注微信公众号“教辅资料站”获取更多学习资料

$48 \div (25-19)$
$=48 \div 6$
$=8$

四、1. $(97-61) \div 4=9$（页）
口答：平均每天看 9 页。
2. $300+300=600$（克）
$600+600=1200$（克）
1200 克 > 1 千克
口答：4 只青蛙不能都跳上去。
3. B 应该是 3。
4. $28 \div 4=7$（元）
$12-7=5$（元）
口答：现在每双 7 元，现在每双比原来便宜 5 元。
5.（1）$25 \div 7=3$（辆）……4（人）
$3+1=4$（辆）
口答：至少需要 4 辆大车。
（2）$25 \div 4=6$（辆）……1（人）
$6+1=7$（辆）
口答：至少需要 7 辆小车。
（3）3　1　【点拨】因为 $7 \times 3+4 \times 1=25$（人），所以坐 3 辆大车和 1 辆小车刚好合适，没有空位。

模块过关卷（四）　常考易错题综合

一、1. ④　2. ③　3. ①　4. ③　5. ①　6. ③　7. ②　8. ④
二、1. 27　10000　四　千
2. 6　3　4
3. 63　57
4. 减　8
5. 克　千克　千克　千克
6. 4　【点拨】对折再对折就把这根绳子平均分成了 4 段。
7. 2　1　8. >　>　<　>　<　>
9.（1）$(50-36) \div 7=2$　（2）$80-4 \times 6=56$
三、1. 800　800　9　7　3……3　2000　6　8
2. $23 \div 3=7$……2　　$50 \div 6=8$……2

$$\begin{array}{r} 7 \\ 3\overline{)23} \\ \underline{21} \\ 2 \end{array} \qquad \begin{array}{r} 8 \\ 6\overline{)50} \\ \underline{48} \\ 2 \end{array}$$

$67 \div 9=7$……4

$$\begin{array}{r} 7 \\ 9\overline{)67} \\ \underline{63} \\ 4 \end{array}$$

3. $27 \div 3 \times 6$　　$16-7 \times 2$
$=9 \times 6$　　$=16-14$
$=54$　　$=2$
$(14-7) \times 9$
$=7 \times 9$
$=63$

四、1. $26 \div 6=4$（辆）……2（人）
$4+1=5$（辆）
口答：至少要租 5 辆小汽车。
2. $3 \times 3=9$（片）　$54 \div 9=6$（天）
口答：这瓶药够吃 6 天。
3. $27-7=20$（米）
$20 \div 3=6$（根）……2（米）
口答：最多能做 6 根短跳绳。
【点拨】剩下的 2 米不能做 1 根短跳绳，因此商不用加 1。
4. 小灰偷吃了梨，小黑偷吃了苹果，小白偷吃了桃子。
5.（1）猴子　大象　（2）7
（3）4　18　8　12

期末测试卷

一、1. ②　2. ①　3. ③　4. ①　5. ②　6. ④　7. ③　8. ④
二、1. 个　五　2. 3045　三千零四十五　四　千
3. 1 ~ 3　【点拨】余数比除数小。
4. 8999　9000　9001
5. 4　9000
6. 7900　4500、7900　2806
7. 7　8. >　<　<　=　>　>
三、

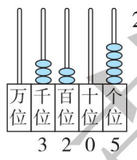

2070　5162
四、1. 7　4　6　5　9……2　7……2　7……1　6……7　550　6600　980　200
2. $29 \div 8=3$……5　　$44 \div 5=8$……4

$$\begin{array}{r} 3 \\ 8\overline{)29} \\ \underline{24} \\ 5 \end{array} \qquad \begin{array}{r} 8 \\ 5\overline{)44} \\ \underline{40} \\ 4 \end{array}$$

$64 \div 9=7$……1

$$\begin{array}{r} 7 \\ 9\overline{)64} \\ \underline{63} \\ 1 \end{array}$$

3. $81-33+47$　　$64-(36+8)$
$=48+47$　　$=64-44$
$=95$　　$=20$
$(78-69) \times 4$
$=9 \times 4$
$=36$

五、

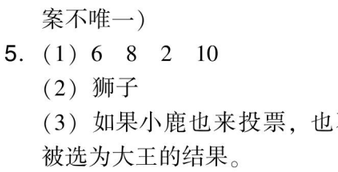

六、1. $4 \times 8=32$（元）
$100-32=68$（元）
口答：要找回 68 元。
【点拨】先要求出停车 8 小时一共收费多少元。
2. $36+2=38$（人）
$38 \div 4=9$（条）……2（人）
$9+1=10$（条）
口答：至少需要租 10 条船。
3. $98-80=18$（枚）
$18 \div 2=9$（枚）
口答：张一给王丁 9 枚后，两人的邮票一样多。
4.（1）$1100-300=800$（元）
口答：一件夹克比一件 T 恤贵 800 元。
（2）$1100+200=1300$（元）
口答：买一件夹克和一条裤子一共需要 1300 元。
（3）一条裙子比一件 T 恤贵多少钱？
$500-300=200$（元）
口答：一条裙子比一件 T 恤贵 200 元。（答案不唯一）
5.（1）6　8　2　10
（2）狮子
（3）如果小鹿也来投票，也不能影响狮子被选为大王的结果。
【点拨】小鹿这 1 票不管投给谁，都无法改变狮子被选为大王的结果。

福建省仿真模拟卷

一、1. ①　2. ②　3. ④　4. ②　5. ③　6. ②　7. ③　8. ②
二、1. 9　27　3　9
2. 旋转
3. 3998　4000
4. 7　7　5　8
5. 8009　三千零五十　4605
6. g　kg　cm
7. <　>　=　>　>　>
8. 41
9. 5000
10. 小兔　小猴
三、1. 2050　27　62　4……3　6　70　13　900　35　36　3300　64
2. $45 \div 7=6$……3　　$847+573=1420$

$$\begin{array}{r} 6 \\ 7\overline{)45} \\ \underline{42} \\ 3 \end{array}$$

$$\begin{array}{r} 847 \\ +\,573 \\ \hline 1420 \end{array}$$

验算：

$$\begin{array}{r} 573 \\ +\,847 \\ \hline 1420 \end{array}$$

$393+126+247=766$

$$\begin{array}{r} 393 \\ +\,126 \\ \hline 519 \\ +\,247 \\ \hline 766 \end{array}$$

四、1.

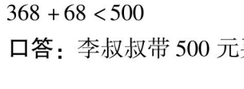

（答案不唯一）
2.（1）16　12　8　5
（2）
优　■■■■■■■■■■■■■■■■□□
良　■■■■■■■■■■■■□□□□□□
及格　■■■■■■■■□□□□□□□□□□
不及格■■■■□□□□□□□□□□□□□□
（3）优　36
五、1. $30 \div (5+1)=5$（根）
口答：平均每只小狗能分到 5 根。
2. $52 \div 8=6$（个）……4（个）
$6+1=7$（个）
口答：至少需要 7 个箱子才能装完。
3. $85-28-28=29$（个）
口答：还要采集 29 个植物标本。
4.（1）$18 \div 3=6$（元）
$10-6=4$（元）
口答：优惠后每个皮球便宜 4 元。
（2）$50-6=44$（元）
$44 \div 8=5$（套）……4（元）
口答：剩下的钱最多可以买 5 套积木。
5. $368<400$　$68<100$
$368+68<500$
口答：李叔叔带 500 元买一套桌椅够。

荣德基
关注微信公众号“教辅资料站”获取更多学习资料

好卷

小卷

- 周测培优卷（10套）
- 专项能力提升卷（8套）



2年级 数学

下（R版）

关注微信公众号“教辅资料站”获取更多学习资料



目录

周测培优卷

数据收集整理能力检测卷 …… 01

表内除法(一)能力检测卷 …… 03

图形的运动(一)能力检测卷 …… 05

表内除法(二)计算能力检测卷 …… 07

表内除法(二)应用能力检测卷 …… 09

混合运算的计算能力检测卷 …… 11

混合运算的应用能力检测卷 …… 13

有余数的除法的能力检测卷 …… 15

万以内数的认识的能力检测卷 …… 17

克和千克的能力检测卷 …… 19

专项能力提升卷

计算的挑战 …… 21

初步的空间想象能力 …… 23

初步的数感 …… 25

有余数的除法应用题 …… 27

两步的应用题 …… 29

初步的逻辑推理能力 …… 31

熟练理解万以内的数 …… 33

应用题的综合练习 …… 35

参考答案及点拨 …… 37

荣德基好卷

关注微信公众号“教辅资料站”获取更多学习资料

班级_____ 姓名_____ 得分_____ 时间：40分钟 满分：100分

一、我会填。（每题4分，共20分）

1. 一万里面有（　　）个千，有（　　）个百。

2. 写出两道除数是7的除法算式：（　　）、（　　）。

3. 一袋糖重500（　　），两袋糖重1（　　）。

4. 在（　　）里填上合适的数。

（　　）÷8＝5　　81÷（　　）＝9

4×（　　）＝28　　27÷（　　）＝3

5. 在○里填上“＞”“＜”或“＝”。

150＋150 ○ 300　　4千克 ○ 4400克

48÷6 ○ 48÷8　　35千克 ○ 350克

二、我会选。（把正确答案的序号填在括号里。每题4分，共12分）

1. 下面各数中，只读一个零的数是（　　）。

①3700　　②3007　　③3730

2. 估一估，得数大于500的算式是（　　）。

①425＋98　　②985－689　　③309＋129

3. 被除数是9的算式是（　　）。

①36÷9　　②9÷3　　③18÷2

三、计算挑战。（共44分）

1. 看谁算得又对又快。（每题1分，共11分）

36÷6＝　　400＋700＝　　1500－600＝　　63÷9＝

7×8＝　　72÷8＝　　2500－500＝　　9÷1＝

1千克－700克＝　　7克＋84克＝　　400克＋600克＝

关注微信公众号“教辅资料站”获取更多学习资料

2. 列竖式计算。(每题 3 分，共 9 分)

58 ÷ 6 =　　76 ÷ 9 =　　45 ÷ 6 =

3. 计算下面各题。(每题 4 分，共 24 分)

27 ÷ 9 × 7　　67 − 35 + 24　　(46 + 18) ÷ 8

32 ÷ (65 − 57)　　72 ÷ 9 × 4　　6 × 7 − 42

四、走进生活，解决问题。(共 24 分)

1. 王老师带领同学们去动物园玩，买门票一共花了 38 元，有多少名同学去了动物园？(12 分)

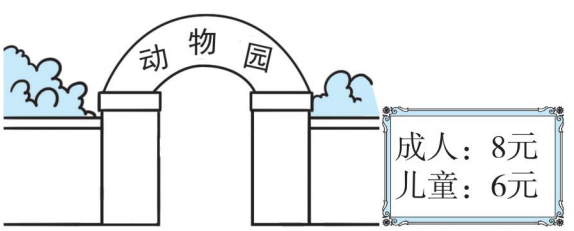

2. 海豚队的队员每 9 只乘 1 辆中巴车，正好乘了 4 辆中巴车，到接待处后，平均分在 6 个水池里。每个水池里分几只？(12 分)

荣德基好卷

关注微信公众号“教辅资料站”获取更多学习资料

班级_____ 姓名_____ 得分_____ 时间：40分钟 满分：100分

一、我会填。（每空2分，共42分）

1. 下面现象是平移的在括号里画“△”，是旋转的画“○”。



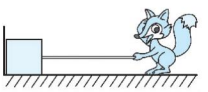


（　　）（　　）（　　）（　　）

2. 下面的图形是轴对称图形的在括号里画“√”，不是的画“×”。


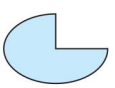




（　　）（　　）（　　）（　　）（　　）






（　　）（　　）（　　）（　　）（　　）

3. 写出分针从12旋转到下面各个位置所经过的时间。

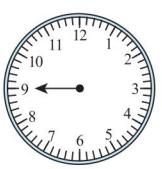



（　　）分　（　　）分　（　　）分

4. 把镜子放在虚线上，看看整个图形是什么？填在括号里。

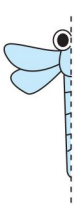
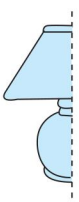
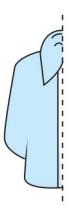


（　　）（　　）（　　）（　　）

关注微信公众号“教辅资料站”获取更多学习资料

二、下面各图中的对称轴画得对吗？对的画“√”，错的画“×”。(10分)

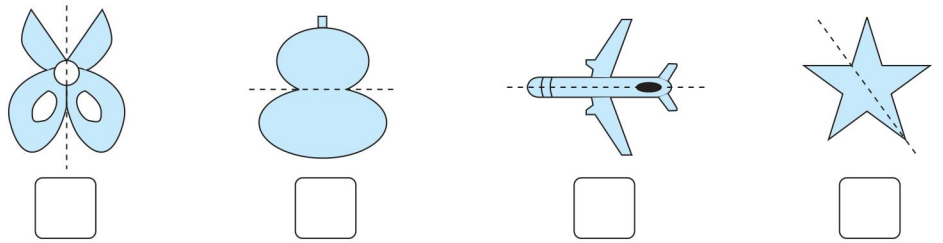

三、圈一圈。(共24分)

1. 哪条鱼是由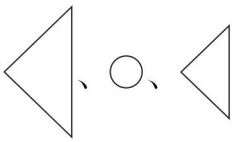通过平移拼成的？(12分)



2. 将一张纸对折后剪去两个圆，展开后是哪一个？(12分)

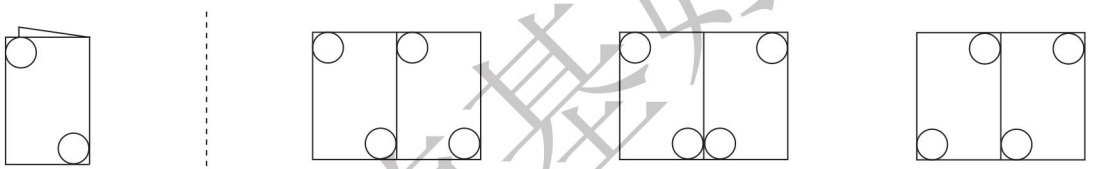

四、要铺满最下面一层，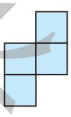和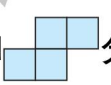分别该怎样平移？(每空3分，共24分)

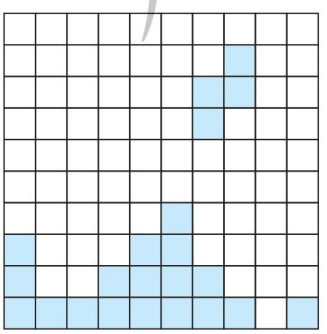

先向（　　）平移（　　）个格，
再向（　　）平移（　　）个格。

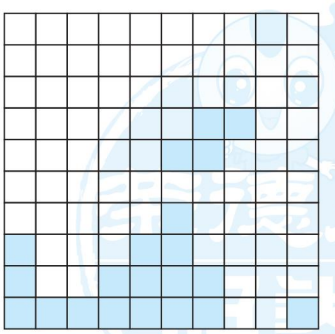

先向（　　）平移（　　）个格，
再向（　　）平移（　　）个格。

荣德基好卷

关注微信公众号“教辅资料站”获取更多学习资料

专项能力提升卷3 初步的数感

班级_____ 姓名_____ 得分_____ 时间：40分钟 满分：100分

一、我会填。（第2题5分，其余每题4分，共21分）

1. 用4张数字卡片 5 、 7 、 0 、 9 组成的四位数中，最接近9000的数是(　　)，读作（　　）；大于5000并且小于5700的数是(　　)和（　　）。

2. 在□里最大能填几？

6547＞6□45　　45÷5＞□　　6＜24÷□

1千克－300克＞□00克　　☆÷5＝3……□

3. 一个三位数，它的各位数字之和是4，这样的三位数中，最大的是(　　)，最小的是（　　）。

4. 操场上有19名同学在跳舞，如果想把他们平均分成3组，至少应去掉(　　)名同学。

5. 用 2 、 3 、 6 、 8 、 12 、 24 这6张卡片，摆出两个除法算式。（每张卡片只用一次）

_____　　_____

二、我会选。（13分）

从7、4、9、28和16中选出3个数写出两个乘法算式和两个除法算式，并写出所用的口诀。

□○□＝□　　□○□＝□

□○□＝□　　□○□＝□

口诀：_____

关注微信公众号“教辅资料站”获取更多学习资料

三、我会比。（每题 2 分，共 18 分）

在 ◯ 里填上“ > ”“ < ”或“ = ”。

3200 克◯3 千克　　6200 克◯6199 克　　7000 克◯7 千克

42 ÷ 6 ◯ 6　　21 ÷ 3 ◯ 1 × 6 + 2　　9 × 3 ◯ 9 ÷ 3

36 ÷ 6 ◯ 5 × 3 − 8　　54 ◯ 5 × 9 + 5　　12 ÷ 2 ◯ 2 × 4 − 3

四、我会填运算符号。（每题 3 分，共 24 分）

小鸟飞向哪里？



3 ◯ 6 = 18　　54 ◯ 6 = 9　　25 ◯ 5 = 5

9 ◯ 9 = 18　　9 ◯ 3 = 6　　5 ◯ 9 = 45

140 ◯ 70 = 70　　3000 ◯ 2000 = 5000

五、我会想。（每题 4 分，共 24 分）

在□里填上合适的数字。

□
□ ⟌ 6 4
6 4
0

□
6 ⟌ □ □
4 2
1

□
8 ⟌ 5 □
5 6
3

□
5 ⟌ □ □
3 5
□

9
□ ⟌ 8 □
□ □
3

8
□ ⟌ 3 □
□ 2
3

荣德基好卷

关注微信公众号“教辅资料站”获取更多学习资料

专项能力提升卷4 有余数的除法应用题

班级_____ 姓名_____ 得分_____ 时间：40分钟 满分：100分

一、我会填。（每题6分，共30分）

1. □÷△=☆……6，除数比10小，△最大是（　　），最小是（　　）。

2. 30个，每个盘子最多放7个，至少需要（　　）个盘子。

3. ○△☆□○△☆□○……第17个图案是（　　）。

4. 在（　　）里填上合适的数。

（　　）÷7=8……4　　（　　）÷5=5……4

5. 看图填一填。

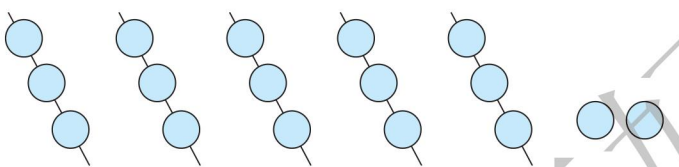

（1）17÷（　　）=（　　）（串）……（　　）（个）

（2）17÷（　　）=（　　）（个）……（　　）（个）

二、走进生活，解决问题。（共70分）

1. 张叔叔要生产45个零件，如果每天最多生产8个，至少需要多少天才能完成？（14分）

2. （14分）

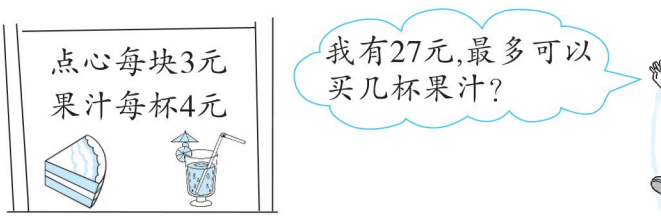

关注微信公众号“教辅资料站”获取更多学习资料

3. 小红想穿一串项链，她用了两种颜色的珠子按下面的规律穿的，共用了26颗。黄色和蓝色珠子各用了几颗？（14分）

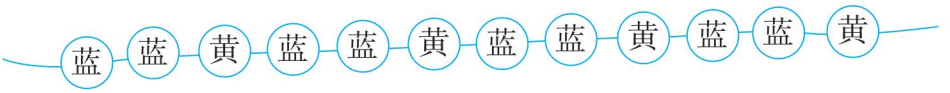

4. 一共有23人去公园划船。

（1）如果都租小船，至少要租几条小船？（4分）



（2）如果都租大船，至少要租几条大船？（4分）

（3）还可以怎样安排租船呢？（6分）

5.

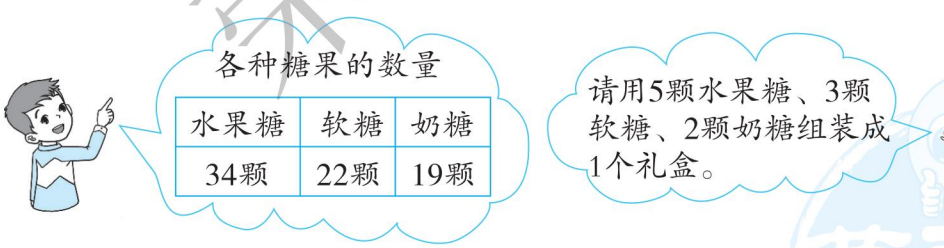

这些糖果最多可以组装成多少个这样的礼盒？（14分）

荣德基好卷

关注微信公众号“教辅资料站”获取更多学习资料

班级_____ 姓名_____ 得分_____ 时间：40分钟 满分：100分

一、我会填。（每题6分，共30分）

1.



988元



105元



210元

估一估，买这三种商品大约共需（　　）元。

2. 有47吨煤，用载重5吨的货车来运，运（　　）次后，还剩2吨。

3. 有1600元，买豆浆机用去300元，买冰箱用去900元，还剩(　　)元。

4. 在一个没有余数的除法算式中，除数是9，商比除数小3，则被除数是（　　）。

5.





（1）红队：赢3场输2场，得（　　）分。

（2）黄队：赢4场输1场，得（　　）分。

二、走进生活，解决问题。（共70分）

1. 女同学比男同学多花多少钱？（14分）

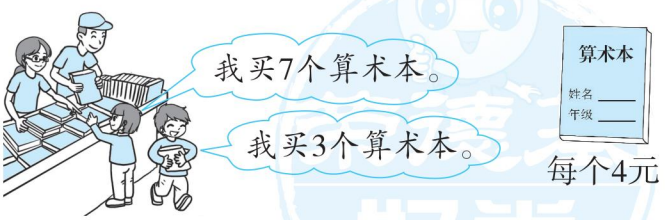

2. 阳光小学原来有45本儿童画报，又买来18本。如果每个班分9本，可以分给几个班？（14分）

关注微信公众号“教辅资料站”获取更多学习资料

3. 小芳跳了多少下？（14 分）



丽丽



飞飞



小芳

4. 二年级召开家长会，同学们准备了34 把单人椅和6 把双人椅。邀请了50 位家长，座位够吗？（14 分）

5.


1双手套24元

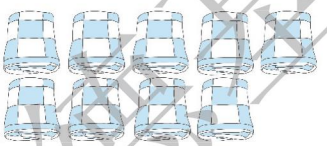
9条毛巾共54元

（1）1 双手套比 1 条毛巾贵多少元？（7 分）

（2）买 1 双手套的钱可以买几条毛巾？（7 分）

荣德基好卷

关注微信公众号“教辅资料站”获取更多学习资料

专项能力提升卷6 初步的逻辑推理能力

班级_____ 姓名_____ 得分_____ 时间：40分钟 满分：100分

一、我会填。(每题6分，共30分)

1. 小刚、小强和小丁在100米赛跑中取得了前三名的成绩。已知小刚不是第一名，小强不是前两名。第一名是(　　)。

2. 甲、乙、丙三个小朋友分别戴着1顶红帽子、1顶蓝帽子和1顶黄帽子，甲看见1人戴红帽子，1人戴蓝帽子，那么甲戴(　　)帽子。

3. 胖胖、笨笨和圆圆是三只可爱的小猪，它们进行跑步比赛。笨笨说："我跑得不是最快的，但比胖胖快。"请你猜一猜，(　　)跑得最快，(　　)跑得最慢。

4. 用 3 、 0 、 6 这3张数字卡片，能摆成(　　)个不同的三位数，分别是(　　)。

5. 猜年龄。



年龄最小的是(　　)，年龄最大的是(　　)。

二、在方框里填上1～9使算式成立，所填数字不能重复。(18分)

$$\begin{array}{r} 2\ 7 \\ +\ 5\ \square \\ \hline 8\ 1 \end{array} \qquad \begin{array}{r} 4\ \square \\ +\ \square\ \square \\ \hline 6\ 2 \end{array}$$

$$\begin{array}{r} \square\ \square \\ -\ \square\ 8 \\ \hline 5\ 4 \end{array} \qquad \begin{array}{r} \square\ 4 \\ -\ 1\ \square \\ \hline 4\ 6 \end{array}$$

关注微信公众号"教辅资料站"获取更多学习资料

三、走进生活，我会推理。（共 52 分）

1. 在下面的方格中，每行、每列都有 1 ~ 4 这四个数，并且每个数在每行、每列都只出现一次。B、C 各是几？（10 分）

		1	
	3	A	1
	C	4	2
		B	

2. 李叔叔把红、白、蓝各一个气球分给 3 个小朋友。根据下面的对话，你能猜出他们分到的各是什么颜色的气球吗？（15 分）



3. 小芳、小丽、小明、小强四人同住在一幢四层的楼房里。已知小芳住的楼层比小丽住的楼层高，比小明住的楼层低，小强住顶层，你知道他们分别住在第几层吗？请填在下边的楼房里。（15 分）



4. 小熊家的一罐蜂蜜被偷了，有嫌疑的是小毛、小球、小飞、小米这 4 只小老鼠，现在调查出是体重最重的那只小老鼠偷的，偷蜂蜜的是哪只小老鼠？（12 分）



荣德基好卷

关注微信公众号“教辅资料站”获取更多学习资料

专项能力提升卷7 熟练理解万以内的数

班级_____ 姓名_____ 得分_____ 时间：40分钟 满分：100分

一、我会填。（每题6分，共30分）

1. 15个百是（　　），1200里面有（　　）个十。

2. 写出与下面各数相邻的两个数。

□ 8240 □　　□ 6000 □　　□ 919 □

3. 有一个四位数，从右边数第二位是5，第四位是9，其余各位都是0，这个数是（　　）。

4. 从4、7、0、5、1中任选4个数字组成一个四位数，最大的是（　　），最小的是（　　）。

5. 方框里最小填几？

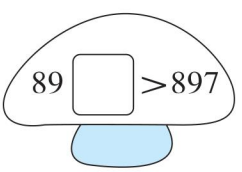

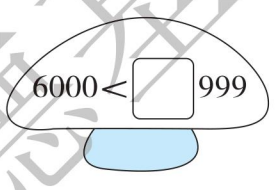

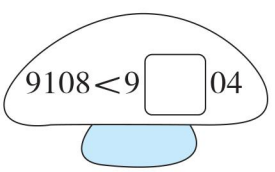

二、我会比。（每空2分，共12分）

把下面的数按从大到小的顺序排列。



（　　）>（　　）>（　　）>（　　）>（　　）>（　　）

三、我会想。（每题3分，共18分）

在□里填上合适的数。

600 + □ = 1400　　4500 − □ = 4300　　□ − 70 = 80

700 + □ = 4700　　1000 − □ = 300　　□ + 500 = 6600

荣德基好卷
关注微信公众号“教辅资料站”获取更多学习资料

四、走进生活，解决问题。（共 40 分）

1. 某大型超市订做了 1100 个彩蛋。（12 分）



2.


电饭煲


电视机


微波炉800元

（1）一个电饭煲比一个微波炉便宜 500 元，一个电饭煲多少钱？（7 分）

（2）一台电视机比一个微波炉贵 900 元，一台电视机多少钱？（7 分）

3.


400元


4000元


5300元

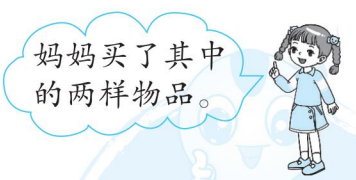

（1）最多花去多少钱？（7 分）　　（2）最少花去多少钱？（7 分）

荣德基好卷

关注微信公众号“教辅资料站”获取更多学习资料

专项能力提升卷8 应用题的综合练习

班级_____ 姓名_____ 得分_____ 时间：40分钟 满分：100分

一、我会看图列式计算。（每题5分，共20分）

1.

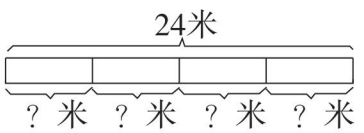

2.

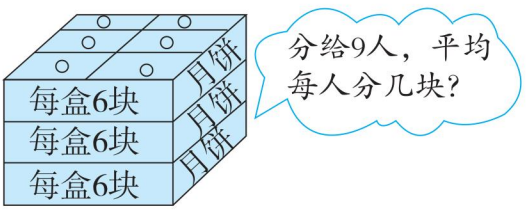

3.



已经修好了51米　剩下的3天修完，平均每天修多少米？

4.



二、走进生活，解决问题。（共80分）

1. 体育老师要从三名“跳远健儿”中选出一名参加全市的少儿运动会。



	李佳	余珍	刘笑
第1次	127厘米	124厘米	126厘米
第2次	120厘米	136厘米	119厘米
第3次	129厘米	130厘米	137厘米

（1）请排出他们的名次。（10分）

（2）体育老师会选谁参加全市的少儿运动会？（10分）

荣德基好卷

关注微信公众号“教辅资料站”获取更多学习资料

2.



A种（共24元）



B种（共25元）



C种（共9元）

（1）上面茶杯的质量是相同的，买哪一种茶杯最划算？（10 分）

（2）妈妈用 22 元买 C 种茶杯，最多可以买几个？（10 分）

3. 买家具。



2898元

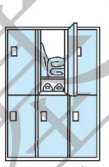

998元

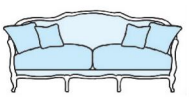

3965元

（1）买一张床和一个沙发大约需要多少钱？（10 分）

（2）爸爸带 5000 元想买一个衣柜和一个沙发，够吗？（10 分）

4. 甲、乙、丙、丁、戊 5 名同学从 1 开始依次报数，23 是谁报的？36 是谁报的？（20 分）

荣德基好卷

关注微信公众号“教辅资料站”获取更多学习资料

荣德基好卷 参考答案及点拨

2年级 数学 下 R版 （小卷）

周测培优卷 1

数据收集整理能力检测卷

一、1. （1）《熊出没》　《米奇妙妙屋》

（2）20　（3）56

2. （1）晴天　16　（2）2　14

（3）4　2　（4）31　夏

二、1. （1）7　8　3　4

（2）小雨家这一周内使用塑料袋最多，小聪家这一周内使用塑料袋最少。

（3）用布袋代替塑料袋，或者重复使用塑料袋。

【点拨】第（3）题答案不唯一。

2. （1）13 − 4 = 9（票）

口答：小杰比小伟多得 9 票。

（2）13 + 6 + 15 + 4 = 38（人）

口答：二（1）班一共有 38 人参加了投票。

（3）小笑当正班长，小杰当副班长。

3. （1）4　（2）18　24　8　16

（3）不会改变。

周测培优卷 2

表内除法(一)能力检测卷

一、



（ √ ）

二、1. 4

2. 10　5　10 ÷ 2 = 5（份）

3. 15 ÷ 3 = 5　15 ÷ 5 = 3

4. 6　【点拨】要求付多少张，就是求 30 里面有几个 5，列式是 30 ÷ 5 = 6（张）。

5. （1）6　（2）3

三、1. 27　5　4　40　6　3　5　4

2.

被除数	12	30	8	24	15	10	12
除数	4	6	2	6	3	5	2
商	3	5	4	4	5	2	6

四、1. （1）18 ÷ 6 = 3

（2）18 ÷ 3 = 6

【点拨】明明和他的两个好朋友，一共是 3 人。

2. （1）4 × 2 = 8（个）

（2）12 ÷ 2 = 6（张）

3. 4 × 6 = 24（个）

口答：这些气球有 24 个。

4. （1）5 × 3 = 15（辆）

口答：3 行排了 15 辆。

（2）15 ÷ 3 = 5（行）

口答：能排 5 行。

（3）15 − 5 = 10（辆）

口答：还剩 10 辆新型山地作战坦克。

荣德基好卷

关注微信公众号“教辅资料站”获取更多学习资料

周测培优卷 3

图形的运动(一)能力检测卷

一、1. (　) 2. (○)

3. (○) 4. (○)

5. (○) 6. (　)

二、1. ② 2. ① 3. ② 4. ③ 5. ③

6. ②

三、1. 熊　小兔（连一连略）

2. 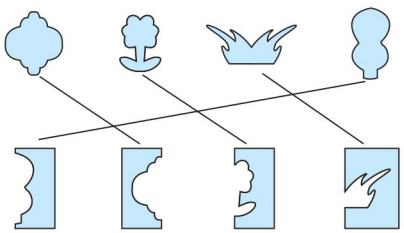

四、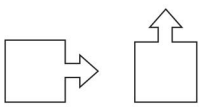

【点拨】图中箭头的方向是向上、向左、向下、向右、向上……

五、30　10　45

周测培优卷 4

表内除法(二)计算能力检测卷

一、1. 9　六九五十四

2. 56　7　8

3. 4

4. 9　8　2　12　6　9　24　4（第3、4、7、8个苹果里填的数不唯一）

5. 8÷8　42÷7　35÷5　3×4

6. ×　−　×　÷　×（最后一空答案不唯一）

二、1. ①　2. ②　3. ③

三、1. 72　9　6　94　61　5　9　9

2. 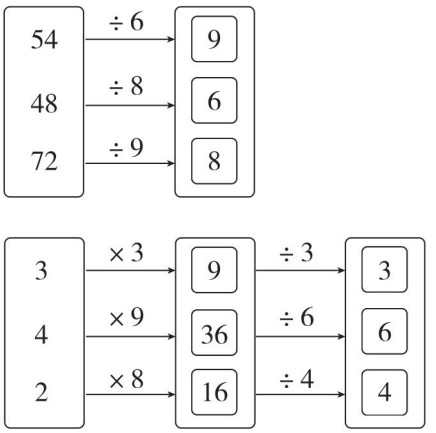

3. 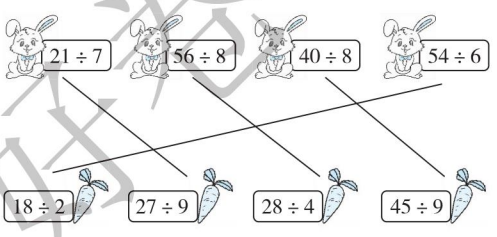

四、1. 5×9=45（元）　40÷5=8（次）

口答：5人乘坐一次旋转木马需要45元，40分钟旋转木马可运行8次。

【点拨】选择有关联的条件解决问题。

2. 27÷3=9（个）

40÷5=8（个）

9>8

口答：明明写得快。

周测培优卷 5

表内除法(二)应用能力检测卷

一、1. 四七二十八

2. 6　5

荣德基好卷

关注微信公众号“教辅资料站”获取更多学习资料

3. 45 ÷ 5 = 9　45 ÷ 9 = 5

4. 7　9

5. 3　6　【点拨】求还要训练几周，列式是 21 ÷ 7 = 3（周）。求一共训练几周，列式是 3 + 3 = 6（周）。

二、1. 5　7　2　30　63　8　4　24

2. 5　4　9　9　7　6

三、1. 36 ÷ 9 = 4（天）

36 ÷ 6 = 6（页）

口答：丽丽 4 天看完。明明平均每天看 6 页。

2.（1）36 ÷ 4 = 9（元）

12 − 9 = 3（元）

口答：“六一”儿童节这天每盒 9 元，每盒比原来便宜 3 元。

（2）9 × 6 = 54（元）

口答：共花了 54 元。

3.（1）32 ÷ 4 = 8（艘）

口答：需要 8 艘小船。

（2）3 × 8 = 24（元）

口答：欢欢坐了 3 次碰碰车花了 24 元。

（3）欢欢坐了 3 次旋转木马花了多少元？

3 × 5 = 15（元）

口答：欢欢坐了 3 次旋转木马花了 15 元。

【点拨】第（3）题答案不唯一。

周测培优卷 6

混合运算的计算能力检测卷

一、1. 除　减　13

2. 乘　除　3

3. 68　8 ×（9 − 4）

【点拨】如果要改变运算顺序，说明要先算减法。

4. 不同　不同

5. 54　72

6. <　=　>　>

二、1.

6 × 7 + 24	64 ÷ 8 + 57
= 42 + 24	= 8 + 57
= 66	= 65
45 ÷（29 − 20）	（14 − 9）× 8
= 45 ÷ 9	= 5 × 8
= 5	= 40
6 ×（2 × 4）	（28 − 8）÷ 5
= 6 × 8	= 20 ÷ 5
= 48	= 4

2. ×　75 − 18 + 12
= 57 + 12
= 69

×　6 × 4 ÷ 3
= 24 ÷ 3
= 8

关注微信公众号“教辅资料站”获取更多学习资料

3.

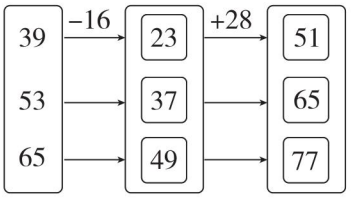

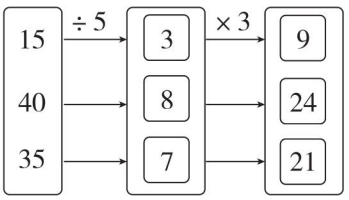

三、1. 方法一：　220 − 120 − 80

= 100 − 80

= 20（件）

方法二：　220 −（120 + 80）

= 220 − 200

= 20（件）

口答：还剩 20 件没送。

2. 7 × 8 − 27 = 29（盆）

口答：还剩 29 盆没浇。

3.（20 + 12）÷ 4 = 8（只）

口答：平均每间兔舍住 8 只兔子。

【点拨】先求出白兔和灰兔一共有多少只。

周测培优卷 7

混合运算的应用能力检测卷

一、1. 左　右

2. 乘、除　加、减

3. 45　5　4. 49　38

5. 14　【点拨】先求出□里的数，列式是 7 × 8 − 8 = 48，再求出正确的得数，列式是 8 + 48 ÷ 8 = 14。

6. 还剩下多少页没有看

平均每天看几页

（40 − 8）÷ 4 = 8（页）

7.（1）21 − 72 ÷ 8 = 12

（2）（57 − 15）÷ 7 = 6

（3）84 − 5 × 7 = 49

二、　9 ×（72 ÷ 8）　　4 + 5 × 7

= 9 × 9　　= 4 + 35

= 81　　= 39

68 − 56 ÷ 8　　63 ÷（9 − 2）

= 68 − 7　　= 63 ÷ 7

= 61　　= 9

三、（33 − 18）÷ 3 = 5（元）

4 × 4 + 26 = 42（元）

四、1. 59 + 30 − 36 = 53（本）

口答：再购进 53 本科技书就能使科技书和故事书一样多。

2. 50 − 22 − 18 = 10（颗）

口答：还剩 10 颗枣。

3.（1）3 ×（8 − 3）= 15（元）

口答：豆豆、果果和丫丫三人玩一次过山车要比玩一次碰碰车多花 15 元钱。

（2）6 个小朋友玩一次碰碰车花的钱可以让几个小朋友玩一次旋转木马？

6 × 3 = 18（元）　18 ÷ 6 = 3（个）

口答：6 个小朋友玩一次碰碰车花的钱可以让 3 个小朋友玩一次旋转木马。

【点拨】第（2）题答案不唯一。

4. 7 × 8 = 56（元）

9 ×（8 − 2）= 54（元）

荣德基好卷

关注微信公众号“教辅资料站”获取更多学习资料

54 < 56

口答：她买 9 个面包划算。

【点拨】买 9 个面包一共花 54 元，比 56 元少，而且还可以多买 2 个面包。

周测培优卷 8

有余数的除法的能力检测卷

一、1. 6　5　3　6　6　9

2. 7　6

3. 1、2、3、4

4. 4　3

5. △

6. 4　4　6

【点拨】求再买的本数，列式是 5 × 6 − 24 = 6（本）。

二、1. ①　2. ③　3. ②　4. ①　5. ①

三、53 ÷ 9 = 5……8　　68 ÷ 8 = 8……4

```
   5              8
9 ) 5 3        8 ) 6 8
  4 5            6 4
  ---            ---
    8              4
```

37 ÷ 6 = 6……1　　60 ÷ 7 = 8……4

```
   6              8
6 ) 3 7        7 ) 6 0
  3 6            5 6
  ---            ---
    1              4
```

四、1. 3 × 8 = 24（个）

24 ÷ 9 = 2（袋）……6（个）

口答：可以装 2 袋，还剩 6 个。

2. 17 ÷ 3 = 5（顶）……2（人）

5 + 1 = 6（顶）

口答：至少要搭 6 顶帐篷。

3. （1）50 ÷ 8 = 6（张）……2（元）

50 ÷ 6 = 8（张）……2（元）

口答：50 元钱最多能买 6 张碰碰车票，用这些钱最多能买 8 张小火车票。

【点拨】剩余的钱不够再买 1 张票。

（2）30 + 1 = 31（人）

31 ÷ 4 = 7（条）……3（人）

7 + 1 = 8（条）

口答：至少需要租 8 条小船。

周测培优卷 9

万以内数的认识的能力检测卷

一、1. 6 个十　6 个千

2. 4　840　408

3. 2016　2000

4. 6800　5400

5. 7058

6. （1）6000　7000

（2）2100　2120

（3）500　600

二、1. ②　2. ①

3. ③　4. ③

5. ③

三、2104　二千一百零四

5026　五千零二十六

1204　一千二百零四

四、1000　2200　900　510　90　1200

3600　2000

五、7640　4706　4670　4607　674

关注微信公众号“教辅资料站”获取更多学习资料

六、1.

《简笔画》			《连环画》	《天天健康》
208 页	210 页	120 页	190 页	685 页

2. 六百多支与五百多支合起来最多是一千二百多支。

1300 > 一千二百多

口答：这些铅笔够。

3. （1）小明从家出发经过小丽家到书店要走多少米？

700 + 800 = 1500（米）

口答：小明从家出发经过小丽家到书店要走 1500 米。

（2）小丽放学回家走哪条路近？要走多少米？

200 + 700 = 900（米）

1000 + 800 = 1800（米）

900 米 < 1800 米

口答：小丽放学回家走经过小明家的这条路近，要走 900 米。

【点拨】此题答案不唯一。

周测培优卷 10

克和千克的能力检测卷

一、1. 千克　克　千克　克　千克

2. 1200　【点拨】秤上显示的是 400 克，列式是 400 + 800 = 1200（克）。

3. 10

4. 10　20

5. =　<　>

6. 2　7000　10　1000

二、1.

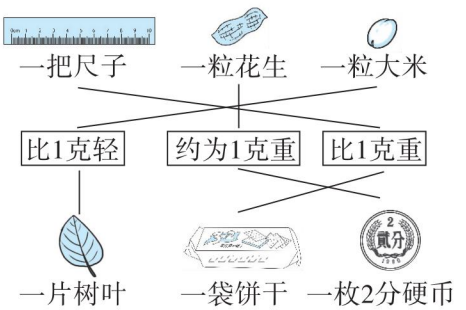

2. 克　千克　千克　克

3.

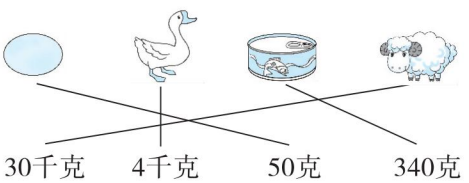

三、1.（1）狮子　300 kg　小兔　800 g

（2）狮子　毛驴　小猪　小兔

2.（1）2 千克 = 500 克 + 500 克 + 500 克 + 500 克

1 千克 = 500 克 + 500 克

4 × 4 + 2 × 2 = 20（元）

口答：应付 20 元。

【点拨】先分析 2 千克和 1 千克可以看成几个 500 克相加。

（2）买 1500 克白菜，应付多少钱？

1500 克 = 500 克 + 500 克 + 500 克

2 × 3 = 6（元）

口答：应付 6 元。

【点拨】第（2）题答案不唯一。

期末复习冲刺卷

专项能力提升卷 1　计算的挑战

一、1. 10　100

2. 14 ÷ 7 = 2　7 ÷ 7 = 1（答案不唯一）

3. 克　千克

关注微信公众号“教辅资料站”获取更多学习资料

4. 40　9　7　9

5. =　<　>　>

二、1. ②　2. ①　3. ②

三、1. 6　1100　900　7　56　9　2000　9

300 克　91 克　1 千克（或 1000 克）

2. 58 ÷ 6 = 9……4　　76 ÷ 9 = 8……4

```
    9                8
6 ) 5 8          9 ) 7 6
  5 4              7 2
  ---              ---
    4                4
```

45 ÷ 6 = 7……3

```
    7
6 ) 4 5
  4 2
  ---
    3
```

3.

27 ÷ 9 × 7	67 − 35 + 24
= 3 × 7	= 32 + 24
= 21	= 56
（46 + 18）÷ 8	32 ÷（65 − 57）
= 64 ÷ 8	= 32 ÷ 8
= 8	= 4
72 ÷ 9 × 4	6 × 7 − 42
= 8 × 4	= 42 − 42
= 32	= 0

四、1. 38 − 8 = 30（元）

30 ÷ 6 = 5（名）

口答：有 5 名同学去了动物园。

【点拨】从总钱数中减去王老师买门票的 8 元就是同学们买门票所花的钱。

2. 9 × 4 ÷ 6 = 6（只）

口答：每个水池里分 6 只。

专项能力提升卷 2　初步的空间想象能力

一、1. ○　△　△　○

2. √　×　√　×　×　×　√　×　×　√

3. 45　20　55

【点拨】分针从 12 开始，每走一大格，走了 5 分。

4. 蜻蜓　台灯　衣服　中国结

二、√　×　√　√

三、1. 

2. 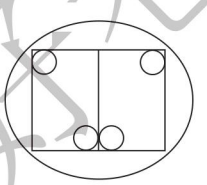

四、右　2　下　6

右　2　下　5

【点拨】关注关键条件“要铺满最下面一层”。

专项能力提升卷 3　初步的数感

一、1. 9057　九千零五十七　5097　5079

【点拨】大于 5000 并且小于 5700，推理出这个数的千位一定是 5，百位不可能是 7，也不可能是 9，那百位只能是 0。

2. 5　8　3　6　4

3. 400　103　【点拨】要使三位数最大，说明百位是 4，那么十位和个位都是 0；要使三位数最小，说明百位

关注微信公众号“教辅资料站”获取更多学习资料

是1，十位是0，那么个位就是3。

4．1

5．12 ÷2 =6　24 ÷3 =8（答案不唯一）

二、4 ×7 =28　28 ÷4 =7

7 ×4 =28　28 ÷7 =4

四七二十八

三、>　>　=　>　<　>　<　>　>

四、×　÷　÷　+　−　×　−　+

五、

$$\begin{array}{r} 8 \\ 8\overline{)\,6\ 4} \\ 6\ 4 \\ \hline 0 \end{array} \qquad \begin{array}{r} 7 \\ 6\overline{)\,4\ 3} \\ 4\ 2 \\ \hline 1 \end{array}$$

$$\begin{array}{r} 7 \\ 8\overline{)\,5\ 9} \\ 5\ 6 \\ \hline 3 \end{array} \qquad \begin{array}{r} 7 \\ 5\overline{)\,3\ 6} \\ 3\ 5 \\ \hline 1 \end{array}$$

$$\begin{array}{r} 9 \\ 9\overline{)\,8\ 4} \\ 8\ 1 \\ \hline 3 \end{array} \qquad \begin{array}{r} 8 \\ 4\overline{)\,3\ 5} \\ 3\ 2 \\ \hline 3 \end{array}$$

（第4个竖式的被除数和余数答案不唯一）

专项能力提升卷4　有余数的除法应用题

一、1．9　7　【点拨】余数要比除数小，余数是6，除数最小是7。

2．5

3．○

4．60　29

5．（1）3　5　2

（2）5　3　2

二、1．45 ÷8 =5（天）……5（个）

5 +1 =6（天）

口答：至少需要6天才能完成。

【点拨】剩下的5个还需要1天，因此5 +1 =6（天）。

2．27 ÷4 =6（杯）……3（元）

口答：最多可以买6杯果汁。

3．26 ÷3 =8（组）……2（颗）

蓝：8 ×2 +2 =18（颗）

黄：8 ×1 =8（颗）

口答：蓝色珠子用了18颗，黄色珠子用了8颗。

【点拨】3颗珠子为1组，其中有2颗蓝色珠子，1颗黄色珠子。

4．（1）23 ÷3 =7（条）……2（人）

7 +1 =8（条）

口答：至少要租8条小船。

（2）23 ÷5 =4（条）……3（人）

4 +1 =5（条）

口答：至少要租5条大船。

（3）3 ÷3 =1（条）

23 −3 =20（人）

20 ÷5 =4（条）

口答：还可以租1条小船和4条大船。（答案不唯一）

5．34 ÷5 =6（个）……4（颗）

22 ÷3 =7（个）……1（颗）

19 ÷2 =9（个）……1（颗）

6 <7 <9

荣德基试卷

关注微信公众号“教辅资料站”获取更多学习资料

口答：这些糖果最多可以组装成6个这样的礼盒。

专项能力提升卷5　两步的应用题

一、1. 1300　2. 9

3. 400

4. 54　【点拨】先求出商，列式是9－3＝6，再求出被除数，列式是6×9＝54。

5.（1）9　【点拨】列式是3×5－2×3＝9（分）。

（2）17

二、1. 4×(7－3)＝16（元）

口答：女同学比男同学多花16元钱。

2.（45＋18）÷9＝7（个）

口答：可以分给7个班。

3. 40－8＋6＝38（下）

口答：小芳跳了38下。

4. 6×2＋34＝46（位）

46＜50

口答：座位不够。

【点拨】每把双人椅能坐2位家长。

5.（1）54÷9＝6（元）

24－6＝18（元）

口答：1双手套比1条毛巾贵18元。

（2）24÷6＝4（条）

口答：买1双手套的钱可以买4条毛巾。

专项能力提升卷6　初步的逻辑推理能力

一、1. 小丁　【点拨】第一名不是小刚，也不是小强，那么第一名就是小丁。

2. 黄

3. 圆圆　胖胖

4. 4　360、306、630、603

5. 小冰　小华

二、

	2	7			4	5	
＋	5	4		＋	1	7	
	8	1			6	2	
	9	2			6	4	
－	3	8		－	1	8	
	5	4			4	6	

【点拨】先确定能填出的数字是4、2、6、8，再确定第2道算式中的十位上只能填1，还剩下3、5、7、9，而只有9－3＝6，如果被个位借“1”后，就是5，所以9和3填在第3道算式里。第2道算式中5和7位置可互换。

三、1. B是3，C是1。

2. 小华分到的是白气球，小春分到的是红气球，小宇分到的是蓝气球。

3.



4. 偷蜂蜜的是小飞。

【点拨】从三句对话推理出，小飞体重最重。

专项能力提升卷7　熟练理解万以内的数

一、1. 1500　120

2. 8239　8241　5999　6001　918　920

荣德基好卷
关注微信公众号“教辅资料站”获取更多学习资料

3．9050

4．7541　1045　5．8　6　2

二、8070　6398　3587　2073　908　496

三、800　200　150　4000　700　6100

四、1．489＜500　495＜500

500＋500＝1000（个）

1000＜1100

489＋495＜1100

口答：做这些彩蛋给超市还不够。

2．（1）800－500＝300（元）

口答：一个电饭煲300元。

（2）800＋900＝1700（元）

口答：一台电视机1700元。

3．（1）5300＋4000＝9300（元）

口答：最多花去9300元。

（2）4000＋400＝4400（元）

口答：最少花去4400元。

专项能力提升卷8　应用题的综合练习

一、1．24÷4＝6（米）

2．6×3÷9＝2（块）

3．（72－51）÷3＝7（米）

4．26＋8×6＝74（元）

二、1．（1）137＞136＞129

第一名是刘笑，第二名是余珍，第三名是李佳。

（2）体育老师会选刘笑参加全市的少儿运动会。

2．（1）24÷6＝4（元）

25÷5＝5（元）

9÷3＝3（元）　3＜4＜5

口答：买C种茶杯最划算。

（2）22÷3＝7（个）……1（元）

口答：最多可以买7个。

3．（1）2898＋3965≈7000（元）

口答：买一张床和一个沙发大约需要7000元。

（2）3965＜4000　998＜1000

3965＋998＜5000

口答：够。

4．23÷5＝4（组）……3

36÷5＝7（组）……1

口答：23是丙报的，36是甲报的。

【点拨】当余数是1时，是甲报的；当余数是2时，是乙报的；当余数是3时，是丙报的；当余数是4时，是丁报的，当没有余数时，是戊报的。

荣德基好卷

关注微信公众号“教辅资料站”获取更多学习资料