好卷



同步 跟踪检测 | 周测 培优卷 | 单元 检测卷 | 期中 检测卷

期末 复习冲刺 | 方法技能 提升卷 | 重难点 突破卷 | 模块 过关卷 | 仿真 模拟卷

教辅资料站

电子教辅　试卷练习
知识总结　备课资源

扫码关注获取更多学习资料

二年级 数学 下 R版

按80:1配赠教师用书

好题 ★ 好卷 ★ 好成绩

吉林教育出版社

好卷



主 编：荣德基　　本册主编：刘红建

二年级数学 下 R版

吉林教育出版社

目录

同步跟踪检测卷

大卷

☆单元检测卷（8套）

第1单元跟踪检测卷 …… 1
第2单元跟踪检测卷 …… 3
第3单元跟踪检测卷 …… （见小卷）
第4单元跟踪检测卷 …… 5
第5单元跟踪检测卷 …… 7
期中检测卷 …… 9
第6单元跟踪检测卷 …… 11
第7单元跟踪检测卷 …… 13
第8单元跟踪检测卷 …… （见小卷）
第9单元跟踪检测卷 …… 15

小卷

☆周测培优卷（10套）

◆数据的收集整理能力检测卷 …… 1
◆表内除法（一）能力检测卷 …… 3
◆图形的运动（一）能力检测卷 …… 5
◆表内除法（二）计算能力检测卷 …… 7
表内除法（二）应用能力检测卷 …… 9
◆混合运算的计算能力检测卷 …… 11
混合运算的应用能力检测卷 …… 13
◆有余数的除法的能力检测卷 …… 15
◆万以内数的认识的能力检测卷 …… 17
◆克和千克的能力检测卷 …… 19

期末复习冲刺卷

大卷

☆模块过关卷（4套）

计算的挑战 …… 17
统计与几何 …… 19
实际应用 …… 21
常考易错题综合 …… 23

☆仿真模拟卷（3套）

期末测试卷 …… 25
杭州市名校期末测试卷 …… 27
黄冈市名校期末测试卷 …… 29
参考答案及点拨 …… 31

小卷

☆方法技能提升卷（4套）

计算的挑战 …… 21
初步的空间想象能力 …… 23
初步的数感 …… 25
有余数的除法应用题 …… 27

☆重难点突破卷（4套）

两步的应用题 …… 29
初步的逻辑推理能力 …… 31
熟练理解万以内的数 …… 33
应用题的综合练习 …… 35
参考答案及点拨 …… 37

好卷　全面测评　环环相扣有抓手
专项突破　重难易错不失分

微信公众号 好卷 教辅资料站
关注微信公众号“教辅资料站”获取更多学习资料

如何选择一本好卷？

现在市场上试卷类教辅比较乱，质量却参差不齐，加之各学科“核心素养”的提出，就更加突显出一本“好”卷的稀有和珍贵。如何慧眼识珠，law烈并被选到一本“好”卷，令教师教学如鱼得水，使学生学习事半功倍，显得至关重要。资德基老师将其与全国众多优秀教改专家的研究成果汇总成四点分享如下，希望对广大师生有所裨益。

1 形式上要“好用”

测试方便：活页试卷，收发自如。

时间灵活：课后自测、课堂小测、班级统测，一应俱全。

卷面规范：字迹清晰，题空合理，版面整齐。

2 读懂试卷优劣的“四个指标”

一份试卷质量的优劣可用四个指标来评价：信度、效度、难度和区分度。

信　度：真实地反映考生的实际水平，体现在试题的难度、题目的数量、题目用语的准确性方面。

效　度：评测目的明确、命题范围准确、题目考查形式合理。

难　度：每一道试题的难度合理，整套试卷的难度适中。

区分度：区分度高的试卷能将不同水平的学生区分开来，水平高的学生得高分，水平低的学生得低分。

3 抓住卷的核心：“好题”

卷的核心是“好题”，每套卷中的好题堪称灵魂，是广大师生十分期待的。

“好题”特征之一是：**引领命题方向**。如题型新颖、考法新奇、结合生活实际、情境化、应用性突出。

“好题”特征之二是：**体现学科素养**。如：语文倡导主题读写能力测评，数学注重实际问题的解决，英语倾向于听说读写综合能力提升。

4 解决老师和学生痛点：“实用”

市场上现有试卷多数为“大卷”，即标准统考卷，在评测时间及针对性上老师会觉得用着不顺手，不能真正做到与教学同步及针对性测评。老师们都急需短时高效、针对性强的“小卷”，如针对每单元基础知识梳理的评测、专项应用能力的评测及主题阅读素养的评测等。

抓住以上四点，即可帮你锁定一本好的试卷，让你收获满满！

《好卷》正是一本这样的书！用好卷 做好题 定能取得好成绩！

拍手歌

DAI SHOU GE

你拍一，　我拍一，　高效学习做“好题”；
你拍二，　我拍二，　我有《好卷》藏宝袋；
你拍三，　我拍三，　常做习题不怕难；
你拍四，　我拍四，　我是勤学好孩子；
你拍五，　我拍五，　天天向上不马虎；
你拍六，　我拍六，　快乐成长争优秀；
你拍七，　我拍七，　循序渐进好阶梯；
你拍八，　我拍八，　成绩优秀顶呱呱；
你拍九，　我拍九，　学习习惯要持久；
你拍十，　我拍十，　永远认真学知识。

关注微信公众号“教辅资料站”获取更多学习资料

第1单元 跟踪检测卷

数据收集整理

时间：60分钟　满分：100分

题号	一	二	总分
得分			

一、统计中填一填。（每空2分，共36分）

1. 下面是二（1）班兴趣小组统计情况。（每人只参加一种兴趣小组）

兴趣小组	古筝	钢琴	射箭	游泳
人数	14	5	11	20

（1）参加（　　）小组的人数最多，参加（　　）小组的人数最少。

（2）参加古筝小组的人数比游泳小组的人数少（　　）人，参加（　　）小组的人数比射箭小组的人数少6人。

2. 二（4）班要举办联欢会，下面是第一小组调查的全班同学喜欢吃的水果情况。（每人只能选一类）

种类	苹果	桃	梨	香蕉
人数	14	8	6	10

（1）喜欢吃（　　）的人数最多，喜欢吃（　　）的人数最少。

（2）二（4）班共有（　　）人。

（3）如果你去买水果，你会根据调查情况多买（　　）。

3. 二（6）班四个同学进行投沙包比赛，每人投20个。下面是四个同学投中个数的统计结果。

姓名	聪聪	明明	文文	强强
投中个数	16	10	17	12

（1）获得投沙包比赛第一名的是（　　），最后一名是（　　）。

（2）文文比聪聪多投中了（　　）个，聪聪再投中（　　）个就和（　　）并列第一名。

（3）如果每人再接着投2个沙包，聪聪（　　）获得第一名。（填“可能”或“不可能”）

4. 课外实践小组统计了一个停车场停放车辆的情况。

面包车	小轿车	大客车
正正正丅	正正正正正一	正

（1）这个停车场（　　）车最多，比面包车多（　　）辆。

（2）小轿车和大客车一共停放了（　　）辆。

（3）这个停车场一共停放了（　　）辆车。

二、整理中想一想。（共64分）

1. （10分）

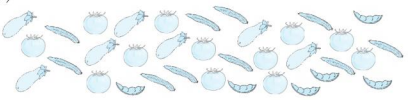

（1）用自己喜欢的方法统计出每种蔬菜的数量。（4分）



（2）（　　）的数量最多，（　　）的数量最少。（2分）

（3）西红柿比茄子多（　　）个。（1分）

（4）你还能提出其他数学问题并解答吗？（3分）

2. （12分）△ ▭ △ ▭ ▭ ○ △ ▭ □ ○ △ △ △ □ ○ ▭ □ ○ □ ▭ □ □ △

（1）数一数，填一填。（4分）

图形	▭	△	□	○
个数				

（2）根据统计表回答问题。（8分）

①○、□、△、▭一共有（　　）个。（1分）

②（　　）最多，（　　）最少；（　　）与（　　）的个数一样多。（4分）

关注微信公众号“教辅资料站”获取更多学习资料

重点提示：请不要在密封线内答题哦！

姓名　学号　班级　学校

③你还知道什么信息？请写一条。（3 分）

3. 在一次班干部选举中，有四名班长侯选人，他们的得票数如下。（10 分）


龙龙
正


元元
正丅


兰兰
正正


刚刚
下

（1）把统计的结果填在下表中。（4 分）

姓名	龙龙	元元	兰兰	刚刚
票数				

（2）（　　）的票数最多，（　　）的票数最少。（2 分）

（3）如果选一人为班长，选（　　）比较合适。（1 分）

（4）选举那天，王芳因病请假没能参加投票，如果她也投了票，结果会怎样？为什么？（3 分）

4. 下面是新源学习机专卖店 4 个品牌专柜营业员记录的本周销售情况。（8 分）

甲品牌	乙品牌	丙品牌	丁品牌
√√√√√√ √√√√√√	正 正 正丅	○○○○○ ○○○○○ ○○○○	正 正

（1）把统计的结果填在下表中。（4 分）

品牌	甲品牌	乙品牌	丙品牌	丁品牌
台数				

（2）丙品牌比丁品牌多卖出（　　）台。（1 分）

（3）如果你是店长，在下周的进货中，你有什么建议？（3 分）

5. 下面是二（3）班同学最喜欢的季节的调查情况。（8 分）

季节	春	夏	秋	冬
人数	16	9	12	7

（1）喜欢（　　）季的人数最多，喜欢（　　）季的人数最少。（2 分）

（2）这个班一共有多少人？（2 分）

（3）喜欢冬季的同学比喜欢秋季的少几人？（2 分）

（4）如果组织同学们游玩，最好应安排在哪个季节？（2 分）

6. 下面是二（1）班同学体育课上参加体育活动的情况。（16 分）

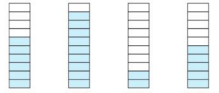

（1）参加（　　）的人数最多，参加（　　）的人数最少。（4 分）

（2）参加跳绳的同学比参加套圈的多（　　）人。（4 分）

（3）这个班有两个同学缺勤，如果他俩都来上体育课，最有可能参加什么活动？（4 分）

（4）如果每个 表示 2 个同学，上面的数据应该是多少？填一填。（4 分）

活动	跳绳	踢球	套圈	踢毽子
人数				

关注微信公众号“教辅资料站”获取更多学习资料

第2单元 跟踪检测卷

表内除法（一）

时间：60分钟　满分：100分

题号	一	二	三	四	五	六	总分
得分							

姓名　学号　班级　学校

一、填一填。（每空1分，共16分）

1. 

一共有（　　）个竹篮，平均分成了（　　）份，每份（　　）个。

2. 在算式 12 ÷ 3 = ☆ 中，（　　）是被除数，3 是（　　），商是（　　）。想口诀（　　）可以求出商。

3. 

10 个汉堡，每 2 个装一袋，可以装（　　）袋。

4. 用五六三十这句口诀可以写出的除法算式是（　　）和（　　）。

5. 用右图中的◯能拼成（　　）个，

算式是（　　）。

6. 6 只小鸟有（　　）条腿。（　　）只青蛙有 20 条腿。

7. 右图是中国人民解放军建军 90 周年阅兵式空中分队预演队形示意图。



（1）一共有（　　）架飞机。

（2）如果每 3 架飞机摆一个造型，可以摆（　　）个同样的造型。

二、辨一辨。（对的在括号里画“√”，错的画“×”。每题1分，共5分）

1. 左图中的分法是平均分。（　　）

2. 计算 3 × 6 = 18 和 18 ÷ 6 = 3 所用的口诀是一样的。（　　）

3. 被除数和除数都是 6，商是 36。（　　）

4. △△△　△△△　△△△看图列式为 6 ÷ 3 = 2。（　　）

5. 把 16 个苹果分给 4 个小朋友，每个小朋友一定分 4 个。（　　）

三、选一选。（把正确答案的序号填在括号里。每题2分，共10分）

1. 把 12 个。平均分成 3 份，哪种分法对？你的选择是（　　）。

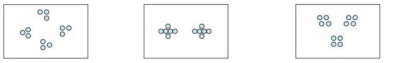

①　②　③

2. 

把这些平均分成 2 份，小兔吃掉一份后，还剩（　　）个。

①4　②5　③6

3. 有 20 个，能摆成几个？列式正确的是（　　）。

①20 ÷ 4 = 5　②20 ÷ 5 = 4　③4 × 5 = 20

4. 下面的算式中，商不是 1 的算式是（　　）。

①5 ÷ 5　②2 ÷ 2　③2 ÷ 1

5. 下列选项中可以用 8 ÷ 2 表示的是（　　）。

①把 8 分成 2 份　②8 里面有几个 2　③把 8 平均分成 4 份

四、计算挑战。（共32分）

1. 看谁算得又对又快。（每题1分，共12分）

6 × 2 =	36 ÷ 6 =	18 − 9 =	10 ÷ 5 =
16 ÷ 4 =	30 + 5 =	9 ÷ 3 =	18 ÷ 6 =
20 − 5 =	6 ÷ 6 =	5 ÷ 5 =	15 ÷ 3 =

2. 小树叶落在哪儿好呢？（每题1分，共8分）

+	−	×	÷
14 ◯ 7 = 7	3 ◯ 2 = 5	2 ◯ 2 = 1	6 ◯ 6 = 0
1 ◯ 5 = 5	36 ◯ 6 = 30	4 = 12 ◯ 3	18 = 9 ◯ 9

温馨提示：请不要在密封线内答题哦！
关注微信公众号“教辅资料站”获取更多学习资料

3. 遮住的数是几？（每题 2 分，共 12 分）

16 ÷ ○ = 4　　○ ÷ 4 = 2　　20 ÷ ○ = 5

○ ÷ 5 = 5　　○ ÷ 1 = 1　　6 × ○ = 24

五、看图列式计算。（每题 4 分，共 8 分）

1.

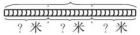

□ ○ □ = □（米）

2.



□ ○ □ = □（个）

六、走进生活，解决问题。（共 29 分）

1.（5 分）

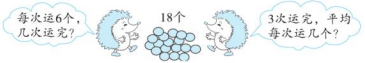

□ ○ □ = □（　　）　　□ ○ □ = □（　　）

2. 小猫吃鱼。



（1）每盘有 6 条鱼，2 盘一共有多少条鱼？（3 分）

（2）如果把这些鱼平均分给 3 只小猫，每只小猫分得几条鱼？（3 分）

3. 平均每个小朋友分几支棒棒糖？（6 分）



4. 春节之际，家家挂灯笼。

（1）10 个灯笼，每个大门挂 2 个，一共可以挂几个大门？（3 分）



（2）10 个灯笼，用去 2 个，还剩几个？（3 分）

5. 4 个家庭共 24 人租车出去旅行。



（1）若都坐面包车，需要租几辆？（3 分）

（2）若都坐小轿车，需要租几辆？（3 分）

关注微信公众号“教辅资料站”获取更多学习资料

第4单元 跟踪检测卷

表内除法（二）

时间：60分钟　满分：100分

题号	一	二	三	四	五	总分
得分						

一、填一填。（每空1分，共23分）

1. 被除数和除数都是8，商是（　　），算式是（　　）。
2. 64里面有（　　）个8，（　　）里面有3个9。
3. 

刺猬想6次运完，那么它平均每次运（　　）个。



36个车轮，可以装（　　）辆车。

4. 72÷9=（　　），用的口诀是（　　），同样用这句口诀的另一道除法算式是（　　）。
5. 右图中一共有（　　）架飞机，列式计算是（　　）；每6架飞机一组，可分成（　　）组，列式计算是（　　）。



6. 一个星期有7天，（　　）个星期有56天，49天是（　　）个星期。
7. 63个珠子，穿成7串，平均每串穿（　　）个；如果每串穿7个珠子，可以穿成（　　）串。
8. 在◯里填上“＞”“＜”或“＝”。

40÷5 ◯ 28÷7　　18÷9 ◯ 12÷3　　42－7 ◯ 42＋7

36÷4 ◯ 35÷7　　48÷6 ◯ 63÷7　　50－15 ◯ 5×7

二、辨一辨。（对的在括号里画“√”，错的画“×”。每题1分，共5分）

1. 8个4是多少，列式为8÷4＝2。（　　）
2. “54÷6＝9”读作54除以9等于6。（　　）
3. 54÷6＝9和54÷9＝6表示的意义是一样的。（　　）
4. 在除法算式中，被除数是最大的。（　　）
5. 40里面有5个8，也有8个5。（　　）

三、选一选。（把正确答案的序号填在括号里。每题2分，共10分）

1. 下列算式中，商最大的算式是（　　）。
①16÷2　　②30÷5　　③81÷9
2. 得数不是9的算式是（　　）。
①9×1　　②9＋1　　③9÷1
3. 根据“九九八十一”这句口诀可以写（　　）道除法算式。
①2　　②4　　③1
4. 除数和商都是9，被除数是（　　）。
①1　　②18　　③81
5. 32个苹果平均分给（　　）个小朋友，刚好可以分完。
①8　　②5　　③6

四、计算挑战。（共33分）

1. 看谁算得又对又快。（每题1分，共12分）

72÷8＝	6×8＝	45－5＝	64＋8＝
56÷7＝	54÷6＝	70－15＝	7＋5＝
48－8＝	63÷7＝	8×2＝	49÷7＝

2. 遮住的数是几？（每题2分，共8分）

7×＝28　　÷9＝9

÷＝7　　45÷＝9

3. 在◯里填上“＋”“－”“×”或“÷”。（每题1分，共8分）

27 ◯ 3＝24　　42＝6 ◯ 7　　8 ◯ 8＝1　　40 ◯ 5＝45

27 ◯ 9＝3　　36＝6 ◯ 6　　56 ◯ 7＝8　　4 ◯ 8＝12

4. 将下列算式填在合适的（　　）里。（5分）



（　　）＞（　　）＞（　　）＞（　　）＞（　　）

关注微信公众号“教辅资料站”获取更多学习资料

五、走进生活，解决问题。（共29分）

1. 36人玩老鹰捉小鸡的游戏。

（1）按右图所示分组，可以分成几组？（3分）



（2）如果平均分成6组，每组有几人？（3分）

2. 国庆节，超市开展了促销活动。香瓜子现在每袋多少元？现在每袋比原来便宜多少元？（6分）



3. 做一件花标本需要6朵花，做一件树叶标本需要8片树叶。（5分）



4.（1）妈妈买了4份A套餐，一共花了多少钱？（3分）

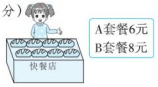

（2）如果用这些钱买B套餐，能买几份？（3分）

5. 逛超市。



（1）买一件上衣的钱可以买8条围巾，一件上衣多少钱？（2分）

（2）买一双鞋的钱可以买9支牙膏，一支牙膏多少钱？（2分）

（3）你还能提出其他用乘法或除法解决的问题并解答吗？（2分）

关注微信公众号“教辅资料站”获取更多学习资料

第5单元 跟踪检测卷

混合运算

时间：60分钟　满分：100分

题号	一	二	三	四	五	六	总分
得分							

一、填一填。（第8题6分，其余每题2分，共20分）

1. 算式里有括号的，要先算（　　）的。
2. 计算100－25＋15时，要先算（　　）法，再算（　　）法。
3. 计算6＋3×5时，要先算（　　）法，再算（　　）法，结果是(　　)。
4. 35与28的和除以7，商是（　　）。
5. 在◯中填入“＞”“＜”或“＝”。

2×6÷3 ◯ 5　　5＋4×3 ◯ 17　　58－24÷6 ◯ 24

6. 文具店有90支钢笔，上午卖了27支，下午卖了32支，还剩(　　)支。
7. 停车场停了3排小汽车，每排有6辆，大客车共停了9辆。小汽车比大客车多停了（　　）辆。
8. 小兔子兄弟去采蘑菇，如果每篮装9个，这些蘑菇一共可以装几篮？



先算（　　），再算（　　），列综合算式是（　　）。

二、辨一辨。（对的在括号里画“√”，错的画“×”。每题1分，共5分）

1. 在计算混合运算时，一定先算乘法，再算除法。（　　）
2. 3×6＋2＝24。（　　）
3. 8×3÷6和38＋27－16的运算顺序是一样的。（　　）
4. 要想改变一道混合运算题目的运算顺序，可以请小括号来帮忙。（　　）
5. 要使7×(□－3)＝56，□里应填11。（　　）

三、选一选。（把正确答案的序号填在括号里。每题2分，共10分）

1. 下面题目，用横线画出先算的，不正确的是（　　）。
①12÷6×2　　②3＋5×2　　③56－(20＋5)
2. 下面的算式中，先算减法的是（　　）。
①20－7×2　　②27÷(9－6)　　③54÷6－4
3. 73－46－14与（　　）的计算结果相同。
①73－(46－14)　　②73－(46＋14)　　③73－46＋14
4. 下面算式中与12÷3÷2结果一样的算式是（　　）。
①12÷3×2　　②16＋4　　③12÷(3×2)
5. 程老师本来计划为图书角买6本《故事书》，你认为他应该买（　　）本。
①6
②7
③8



每本8元，购买8本及以上每本优惠2元。

四、计算挑战。（共26分）

1. 计算下面各题。（每题3分，共18分）

5+3×8	36–24÷6	42–18+12
5×(28÷7)	4×6÷3	54–(62–57)

2. 先填空，再列综合算式。（每题4分，共8分）



综合算式：_____

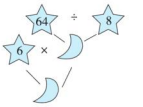

综合算式：_____

关注微信公众号“教辅资料站”获取更多学习资料

重点提示：请不要在密封线内答题哦！

姓名　学号　班级　学校

五、看图列式计算。（每题4.5分，共9分）

1.



2. 吃了24个 剩下的每袋装8个，可以装几袋？



六、走进生活，解决问题。（共30分）

1. 二年级两个班的同学参加仪仗队表演。（6分）

班级	一班	二班
人数	27人	29人

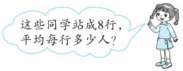

2. 母亲节到了，同学们买花送给母亲。小丽比小林多花多少钱？（6分）

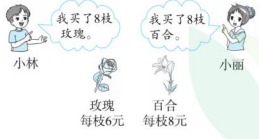

3. 丽丽和爸爸、妈妈一起逛公园，买门票一共花了24元。（6分）



4. 逛商场。



（1）东东带了50元钱，买了一架玩具摩托车后还可以买几双袜子？（4分）

（2）文文买3顶帽子和一个木马，共花多少钱？（4分）

（3）你能再提一个两步解决的问题并解答吗？（4分）

自己说说

老师点评

家长点评

关注微信公众号“教辅资料站”获取更多学习资料

期中 检测卷

时间：60分钟　满分：100分

题号	一	二	三	四	五	总分
得分						

一、填一填。（每空1分，共20分）

1. 28里面有（　　）个7，（　　）平均分成6份，每份是8。
2. 用六七四十二写出的两道除法算式是（　　）和（　　）。
3. 电风扇扇叶转动是（　　）现象，拉开抽屉是（　　）现象。（填“平移”或“旋转”）
4. 计算35－15÷5时，要先算（　　）法，后算（　　）法。
5. 在○里填上“＋”“－”“×”“÷”。

   10 ○ 3＝7　　6 ○ 7＝42　　48 ○ 8＝6　　12 ○ 39＝51

6. 在（　　）里填上合适的数。

   30÷6＝（　　）÷2　　36÷（　　）＝45－39

   63÷（　　）＝18÷2

7. （　　）只56条腿，（　　）只30条腿。
8. 写出两个轴对称的汉字：（　　）。
9. 小花和她的5个小伙伴每人有6个桃，他们一共有（　　）个桃，如果把它们平均分给9个小朋友，每个小朋友分得（　　）个桃。

二、辨一辨。（对的在括号里画“√”，错的画“×”。每题1分，共5分）

1. 用“正”字统计5月份天气情况，一个“正”字代表1天。（　　）
2. 60－23－18与60－(23－18)的运算顺序不同，但运算结果相同。（　　）
3. 车在行驶的过程中，既有平移现象，也有旋转现象。（　　）
4. 有的口诀只能写一道除法算式。（　　）
5. 要求被除数，有时用商乘除数，有时用商除以除数。（　　）

三、选一选。（把正确答案的序号填在括号里。每题2分，共10分）

1. 结果不可以用18÷3表示的是（　　）。

   ①把18平均分成3份　　②18除以6

   ③18里面有几个3

2. 下面剪纸作品中，不是轴对称图形的是（　　）。

　　

①　②　③

3. 从36中连续减去9，减（　　）次才能使结果等于0。

   ①27　　②4　　③9

4. 下面的现象中，不是平移的是（　　）。

　　

①　②　③

5. ○＋○＋○＋○＝32，○代表的数是（　　）。

   ①7　　②8　　③9

四、计算挑战。（共36分）

1. 看谁算得又对又快。（每题1分，共12分）

15－5＝	6×3＝	24＋6＝	3×4÷2＝
48÷6＝	35÷7＝	45÷5＝	40－5×8＝
9÷1＝	8÷8＝	6×6＝	1＋1×1＝

2. 计算下面各题。（每题3分，共18分）

   6＋3×9　　(42＋14)÷7　　2×9÷3

   65－30÷5　　76－(28＋19)　　72÷8÷3

关注微信公众号“教辅资料站”获取更多学习资料

温馨提示：请不要在密封线内答题哦！

姓名　学号　班级　学校

3. 先填空，再列综合算式。（每题3分，共6分）



综合算式：_____

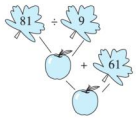

综合算式：_____

五、走进生活，解决问题。（共29分）

1. 星星农场今年粮食大丰收，准备运到粮店出售。两辆车同时运，一共运了4次。一共运了多少袋粮食？（5分）



2. 二年级两个班举行了“中国历史”知识竞赛，分两轮进行，总得分情况如下表。

二（1）班	二（2）班
56分	62分

第二轮二（1）班得了39分。第一轮两个班的得分一样多。第二轮二（2）班得了多少分？（6分）

3. 每辆车可以坐8人，一共有多少人？（6分）



4.（6分）

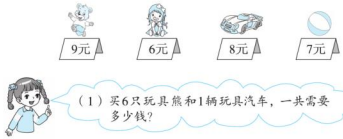

5. 下面是小威记录的一个月的天气情况。

（1）把记录的结果填在右面的表中。（3分）

☀	正正正丁
☁	正正一
❄	下

天气	☀	☁	❄
天数			

（2）这个月共有多少天？你认为这个月属于哪个季节？（3分）

关注微信公众号“教辅资料站”获取更多学习资料

荣德基 好卷 二年级 数学 下 R版

第6单元 跟踪检测卷

有余数的除法

时间：60分钟　满分：100分

题号	一	二	三	四	五	总分
得分						

姓名　学号　班级　学校

一、填一填。（第1、7题每题6分，其余每空1分，共21分）

1. 圈一圈，填一填。



□÷□=□（组）……□（个）



□÷□=□（组）……□（个）

2. 在有余数的除法里，如果余数是4，除数最小是（　　）；如果除数是6，余数最大是（　　）。

3. 有42块巧克力，至少拿出（　　）块，剩下的才能平均分给5个小朋友，每个小朋友可分得（　　）块。

4. 每支铅笔6角钱，5元钱最多能买（　　）支铅笔。

5. 34米长的绳子，每5米剪一段，可以剪成（　　）段，还剩（　　）米。

6. 在算式△÷□=8……7中，□最小是（　　），这时△是（　　）。

7. （　　）里最大能填几？

（　　）×7<36　　8×（　　）<75　　42>（　　）×6

54>（　　）×9　　4×（　　）<31　　39>（　　）×5

二、辨一辨。（对的在括号里画“√”，错的画“×”。每题1分，共5分）

1. 57÷8=6……9。（　　）

2. 4×7+6=34。（　　）

3. 43÷8和66÷9的余数相同。（　　）

4. 除数是7，余数一定是6。（　　）

5. 被除数一定比除数大。（　　）

三、选一选。（把正确答案的序号填在括号里。每题2分，共10分）

1. 下面的算式中，余数是4的是（　　）。

①26÷3　　②39÷4　　③53÷7

2. ○÷7=6……△中，下列说法不正确的是（　　）。

①余数不可能是8　　②余数必须小于6　　③余数最大是6

3. □÷6=5……3中，□里应填（　　）。

①23　　②30　　③33

4. 四个小朋友在玩轮流报数游戏。下面四个数中，（　　）是欢欢报的。

①20

②21

③22

④23



5. 商店准备把篮子中24个松花蛋装袋后销售。销售部经理设计了以下几种装袋方案，（　　）种方案装袋后有剩余。

①每3个装一袋

②每4个装一袋

③每5个装一袋



四、计算挑战。（共30分）

1. 直接写出下面各题的商和余数。（每题2分，共12分）

18÷5=□……□　　20÷3=□……□　　42÷5=□……□

59÷8=□……□　　11÷2=□……□　　50÷7=□……□

2. 列竖式计算。（每题3分，共18分）

27÷6=　　60÷8=　　83÷9=

47÷5=　　29÷9=　　24÷7=

温馨提示：请不要在密封线内答题哦！

微信公众号 教辅资料站

关注微信公众号“教辅资料站”获取更多学习资料

五、走进生活，解决问题。（共 34 分）

1. 舞台前的花真漂亮，从左往右的排列顺序是红、黄、蓝，每 3 盆一组，第 19 盆是什么颜色的花？（6 分）



2. 某学校准备在六一期间开展飞机模型比赛，二（1）班每 6 名同学正在合做一架飞机模型呢！（6 分）



3. 19 只小动物参加森林运动会，坐满一辆面包车后，剩下的坐小汽车，至少需要几辆小汽车？（6 分）



4. 这些水果最多可以装成多少个水果篮？（6 分）

32个	22个	19个



5. 二年级有 37 位“作文小能手”，一起去郊游。



（1）如果都租小汽车，最多可以坐满几辆车？会有剩余的人吗？（3 分）

（2）如果都租面包车，至少要租几辆？（3 分）

（3）还可以怎样安排租车呢？用算式说说你的想法。（4 分）

自己说说
老师点评
家长点评
关注微信公众号“教辅资料站”获取更多学习资料

第7单元 跟踪检测卷

万以内数的认识

时间：60分钟　满分：100分

题号	一	二	三	四	五	六	总分
得分							

一、看图写数、读数。（算盘最右边一档是个位。每题2分，共8分）

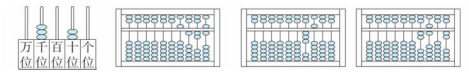

写作：_____　写作：_____　写作：_____　写作：_____

读作：_____　读作：_____　读作：_____　读作：_____

二、填一填。（每空1分，共20分）

1. 10个十是（　　），10个（　　）是一千，10个一千是（　　）。
2. 算盘上一个上珠表示（　　），一个下珠表示（　　）。
3. 9999加上1是（　　），10000里面有（　　）个100，10000里面有（　　）个1000。
4. 7690是由（　　）个千、（　　）个百、（　　）个十组成的。
5. 根据2324＝2000＋300＋20＋4填一填。

（1）

还缺（　　）排。

（2）

还缺（　　）个
。

（3）

千位缺（　　）颗。

6. 56个百是（　　），7800里面有（　　）个百。
7. 由2、8、0、6组成的最大四位数是（　　），最小四位数是（　　）。（每个数中没有重复数字）
8. 长江是亚洲第一长河，全长6397千米，横线上的数读作：（　　）；全世界的鸟类有九千零八种，横线上的数写作：（　　）。

三、辨一辨。（对的在括号里画“√”，错的画“×”。每题1分，共5分）

1. 一个数的末尾不管有几个0，都只读一个“零”。（　　）
2. 一个数的最高位是万位，这个数是五位数。（　　）
3. 一个数由5个千和5个一组成，这个数是505。（　　）
4. 6666中的每个6表示的意义一样。（　　）
5. 由1、0、0、8组成的只读一个零的四位数只有1008。（　　）

四、选一选。（把正确答案的序号填在括号里。每题2分，共10分）

1. 下面的数中，只读一个“零”的是（　　）。
①3000　②3006　③3600
2. 最大的四位数与最小的五位数相差（　　）。
①1　②10　③100
3. 在数位顺序表中，右起第四位是（　　）位。
①千　②十　③百
4. 下面各种形式表示的数中，哪个数中的3表示3个百？你的选择是（　　）。

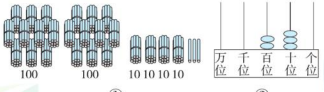

①　②　③

5. 下列各数最接近7000的是（　　）。
①6997　②6998　③7001

五、计算挑战。（共26分）

1. 看谁算得又对又快。（每题1分，共12分）

5000－2000＝	1200－700＝	1500－600＝	150－90＝
6000－3000＝	500＋800＝	3000＋700＝	4600＋300＝
2300－800＝	2500－1000＝	6600－500＝	3600－700＝

关注微信公众号“教辅资料站”获取更多学习资料

姓名　学号　班级　学校
重点提示：请不要在密封线内答题哦！

2. 在□里填上适当的数字。（每题1分，共6分）

37 □ <371　　□ 65 >766　　485 <4 □ 5

825 >8 □ 9　　999 □ >9998　　134 □ <1341

3. 在○中填入“>”“<”或“=”。（每题2分，共8分）

4068 ○ 3468　　598 ○ 1209

5000 +600 ○ 4000　　200 +900 ○ 1100

六、走进生活，解决问题。（共31分）

1. 下面是某市的几个学校的学生人数情况，在表中填上学校名称。（6分）



986人	1068人	2569人

2. 造一个“彩虹桥”需要600个气球。剩下的气球够吗？（6分）



3. 明明在春节积攒了400元的压岁钱。



明明剩下的钱够吗？如果不够，明明至少还要积攒多少钱？（6分）

4. 某校一至四年级到小剧场看话剧。

一年级有180人。二年级有290人。

三年级有370人。四年级有300人。



（1）一至四年级所有同学能同一场次看话剧吗？（3分）

（2）如果不能同一场次看话剧，那么哪两个年级可以一起看？（3分）

5. 某天到以下各景点游玩的人数如下表。

 1204人	 6028人	 3915人

（1）游玩的人数各接近几千人？（3分）

（2）游玩人数最多的比最少的大约多几千人？（4分）

关注微信公众号“教辅资料站”获取更多学习资料

荣德基 好卷 二年级 数学 下 R版

第9单元 跟踪检测卷

数学广角——推理

时间：60分钟　满分：100分

题号	一	二	三	四	总分
得分					

一、填一填。（每题6分，共30分）

1. 英语测试，天天、丽丽、伟伟三人获得了前三名，丽丽是第（　　）名，伟伟是第（　　）名，天天是第（　　）名。



2. 有三张卡片，上面分别标有5、9、0，红红、东东、婷婷每人拿了一张。红红拿的不是5，东东拿的是最大的一位数。他们各拿的是几？

红红	东东	婷婷

3. 乐乐、欢欢、聪聪、文文比赛跑步，乐乐不是最快的，但比欢欢、聪聪快，欢欢比聪聪慢。第一名是（　　），第二名是（　　），第三名是（　　），第四名是（　　）。

4. 下图是一个圆、一个三角形、一个正方形的一部分。图①是（　　），图②是（　　），图③是（　　）。



5. 孙悟空、沙僧和八戒分别藏在哪个房子里？



①	②	③
孙悟空藏在这里	？	沙僧不在这里

孙悟空在（　　）号房，沙僧在（　　）号房，八戒在（　　）号房。

二、选一选。（把正确答案的序号填在括号里。每题2分，共10分）

1. 三个小朋友分别出生在上海、南京和北京三个城市，青青出生的城市是（　　）。

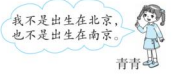

①北京　　②南京　　③上海

2. 三个小朋友假期里分别在三个兴趣班学习，学的是唱歌、美术和舞蹈。



请你猜一猜，小云学的是（　　）。

①唱歌　　②美术　　③舞蹈

3. 今天是“六一”儿童节，新华书店抽奖结果揭晓啦。大奖的号码是由6、8、9组成的三位数，这个三位数十位上的数字不是最大的，个位上的数字是最小的。大奖号码是（　　）。

①689　　②896　　③986

4. 明明、云云、红红三人的妈妈，其中有一位是护士，有一位是教师，有一位是司机。你推理出云云的妈妈是（　　）。

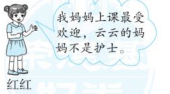

①护士

②教师

③司机

5. 在下面的方格中，每行、每列都有1～4这四个数，并且每个数在每行、每列都只出现一次。A是（　　）。

①1

②2

③3

2	3		
A			3
		2	
4			

关注微信公众号“教辅资料站”获取更多学习资料

重点提示：请不要在密封线内答题哦！

姓名　学号　班级　学校

三、我会按要求解决问题。（共 30 分）

1. 我会连。（三个小朋友各跳了多少下？10 分）



65下　　60下　　56下

2. 在方框里填上 1~9，每个竖式中的数字不能重复。（10 分）

```
  3 7        4 5
+ 5 □      + □ □
-------    -------
  □ 1        6 2

  □ □        □ 4
- □ 8      - □ □
-------    -------
  5 4        5 6
```

3. 我会分析。（10 分）

赵老师、李老师、王老师分别教语文、数学、英语中的一门。

语文老师不姓李，李老师不带三角尺和米尺上课，赵老师和数学老师是好朋友。

在正确的表格中画“√”，在不正确的表格中画“×”，并填空。

	数学	英语	语文
赵老师			
李老师			
王老师			

从表格中得出，赵老师教（　　），李老师教（　　），王老师教（　　）。

四、走进生活，我会推理。（共 30 分）

1. 勤劳的黑兔、白兔和灰兔，一个种萝卜，一个种白菜，一个种南瓜。白兔和黑兔收到了好朋友送的南瓜，黑兔帮助好朋友去萝卜地里施肥。黑兔、白兔和灰兔分别种的是什么？（10 分）



2. 根据下面的信息，猜一猜，方方、林林和天天的爸爸各是什么职业？（10 分）

方方、林林和天天三人爸爸的职业分别是工人、解放军和医生中的一种。

A. 方方的爸爸不是工人；

B. 林林的爸爸不是医生；

C. 方方的爸爸和林林的爸爸正在听解放军爸爸讲“一箭多星”的发射技术。

3. 在下面的格子中，每行、每列都有“热、爱、祖、国”这四个字，并且每个字在每行、每列中都只出现一次。请你把空白部分补充完整。（10 分）

	爱		
		热	国
热			
		祖	

关注微信公众号“教辅资料站”获取更多学习资料

荣德基 好卷 二年级 数学 下 R版

期末复习冲刺卷 模块过关卷（一）

计算的挑战

时间：60分钟　满分：100分

题号	一	二	三	四	五	总分
得分						

一、填一填。（每空1分，共25分）

1. 计算62－18÷3时，第一步要先算（　　）；计算21÷(3＋4)时，第一步要先算（　　）。

2. 1300－500，可以看作（　　）个百减（　　）个百，得（　　）个百，就是（　　）。

3. 24÷6＝□，口诀：_____；54÷9＝□，口诀：_____。

4. 在（　　）里填上合适的质量单位。


3（　　）


230（　　）


450（　　）


5（　　）

5. 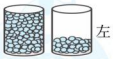
左图中，第一杯大约有1000粒豆子，第二杯大约有（　　）粒豆子。（　　）杯大约是10000粒豆子。

6. 比最大的三位数多1的数是（　　），它是（　　）位数。

7. 4千克＝（　　）克　　7000克＝（　　）千克
10000克＝（　　）千克　　1千克＋800克＝（　　）克

8. 卡片上最大能填几？

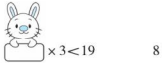
×3<19


8×<45


52>7×

二、辨一辨。（对的在括号里画“√”，错的画“×”。每题1分，共5分）

1. 6024是由6个千、2个百和4个一组成的。（　　）
2. 18张卡片平均分给3个小朋友，每人分得6张，列式是：18÷6＝3。（　　）
3. 8×7÷2与87＋24－9的运算顺序是一样的。（　　）
4. 在算式△÷□＝7……5中，□里最小填8。（　　）
5. 一个五位数，从左边起第四位是千位。（　　）

三、选一选。（把正确答案的序号填在括号里。每题1分，共5分）

1. 如果表示36，那么△表示（　　）。
①36　　②4　　③9

2. 用两个0和两个6组成的四位数中，一个零都不读的数是（　　）。
①6600　　②6060　　③6006

3. 要使4□85＞4485，□里应有（　　）种填法。
①3　　②4　　③5

4. （　　）的得数在820～850之间。
①340＋533　　②937－96　　③620＋255

5. 72减去45的差除以9，算式是（　　）。
①72－45÷9　　②(72－45)÷9　　③72＋45÷9

四、计算挑战。（共39分）

1. 看谁算得又对又快。（每题1分，共12分）

45÷9＝	48÷6＝	340－80＝	350＋70＝
680－600＝	63÷9＝	70÷8＝	28÷7＝
81÷9＝	20÷4＝	23÷7＝	52÷9＝

2. 列竖式计算。（每题2分，共12分）

40÷7＝　　57÷8＝　　32÷6＝

42÷7＝　　60÷8＝　　38÷4＝

关注微信公众号“教辅资料站”获取更多学习资料

姓名　学号　班级　学校
重点提示：请不要在密封线内答题哦！

3. 计算下面各题。（每题3分，共9分）

58 − 29 + 35　　45 − 28 ÷ 7　　(27 + 18) ÷ 5

4. 在◯里填上“+”“−”“×”或“÷”。（每题1分，共6分）

12 ◯ 3 = 4　　8 ◯ 4 = 32　　24 ◯ 4 = 20

3 ◯ 5 = 8　　72 ◯ 8 = 9　　800 ◯ 400 = 1200

五、走进生活，解决问题。（共26分）

1. 李明排第16个，第几次才能进去？（5分）



2. 同学们去野营。二（1）班24人，二（2）班30人，共需要搭多少顶帐篷？（5分）



3. 小晨准备用一星期（7天）看完一本60页的故事书，第一天看了12页，剩下的平均每天看几页？（5分）

4. 我们要包5盘饺子，每盘8个。（5分）



5. 各种水果价目表如下。

4元/500克	3元/500克	12元/500克	6元/500克

（1）买1千克桃子和1500克苹果，需要多少钱？（3分）

（2）你还能提出什么数学问题？并解答。（3分）

关注微信公众号“教辅资料站”获取更多学习资料

荣德基 好卷 二年级 数学 下 R版

期末复习冲刺卷 模块过关卷（二）

统计与几何

时间：60分钟　满分：100分

题号	一	二	三	四	五	总分
得分						

一、填一填。（每空1分，共27分）

1. 在（　　）里填上“平移”或“旋转”。


（　　）

（　　）

（　　）

（　　）

（　　）

（　　）

（　　）

（　　）

2. 下面的图形是轴对称图形的画“√”，不是的画“×”。


（　　）

（　　）

（　　）

（　　）

（　　）

3. 根据图中物体的运动现象，填“平移”或“旋转”。

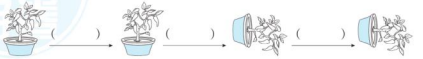
（　　）　（　　）　（　　）

4. 下面的汉字、字母、图案都是轴对称图形，你能猜猜整个的图形是什么吗？写在括号里。


（　　）　（　　）　（　　）　（　　）　（　　）

5. 下面是二（3）班同学出生季节统计情况。

春	夏	秋	冬
正正正正正丁	正正	正正丁	正丁

（1）在秋季出生的有（　　）人，比在春季出生的少（　　）人。

（2）在春季和冬季出生的共有（　　）人。

（3）在秋季出生的比在冬季出生的多（　　）人。

（4）在（　　）季出生的比在（　　）季出生的多2人。

二、辨一辨。（对的在括号里画“√”，错的画“×”。每题3分，共15分）

1. 工　中　喜　小　日　左边这些汉字都是轴对称图形。（　　）
2. 直线行进中的滑雪板的运动属于平移现象。（　　）
3. 数字“0”是轴对称图形，数字“6”不是轴对称图形。（　　）
4. 摩天轮的转动是旋转现象。（　　）
5. 物体经过平移或旋转后，物体的大小没有发生变化。（　　）

三、选一选。（把正确答案的序号填在括号里。每空4分，共20分）

1. 下面属于平移现象的是（　　）。


①
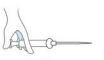
②

③

2. 下列是我国几家银行的标志，其中不是轴对称图形的是（　　）。

①

②

③

3. 如图，将一张长方形纸对折后，沿虚线剪掉，打开后的图案是（　　）。


①

②

③

关注微信公众号“教辅资料站”获取更多学习资料

姓名　学号　班级　学校
重点提示：请不要在密封线内答题哦！

4. 二（1）班2名同学正在统计学校门口10分钟内通过的各种交通工具的数量。

种类	客车	货车	面包车	小轿车
辆数	20	15	35	40

（1）

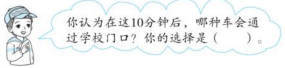

①小轿车　　②面包车　　③都有可能

（2）



①小轿车　　②面包车　　③都有可能

四、下面的图形分别是从哪张纸上剪下来的？请连一连。（8分）

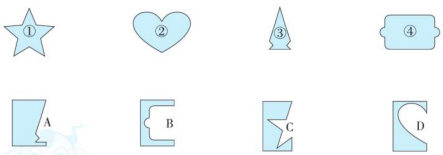

五、走进生活，我会统计。（共30分）

1. 下面是4个同学调查的本班同学的鞋号情况。



（1）把他们统计的结果填入表中。（4分）

鞋码	29码	30码	31码	32码
人数				

（2）穿什么鞋码的同学最多？穿什么鞋码的同学最少？（5分）

（3）马上要进行体操比赛，如果让你去买运动鞋，你会怎么买？为什么？（6分）

2. 下面是二（1）班刘云同学调查的本班同学春游最喜欢去的地方统计表。

地点	动物园	游乐园	植物园
人数	11	21	10

（1）二（1）班一共有多少人？（5分）

（2）你还能提出其他数学问题并解答吗？（5分）

（3）如果让你组织这次春游活动，你有什么好的建议？为什么？（5分）

关注微信公众号“教辅资料站”获取更多学习资料

期末复习冲刺卷 模块过关卷（三）

实际应用

时间：60分钟　满分：100分

题号	一	二	三	四	五	总分
得分						

一、填一填。（第4题6分，其余每空1分，共21分）

1. 2017年7月30日，中国人民解放军建军90周年阅兵在内蒙古朱日和训练基地举行，朱日和基地占地1066平方千米。横线上的数读作（　　），它是由（　　）个千、（　　）个十和（　　）个一组成的。
2. 希望小学有学生803人，其中女生395人，男生大约有（　　）人。
3. 8个花盆，每盆种2棵花，一共种（　　）棵花。8盆花摆成两排，一排摆2盆，另一排摆（　　）盆。
4. 三个小朋友踢毽子，分别踢了30下，45下，26下。



小平踢了（　　）下，小雪踢了（　　）下，小力踢了（　　）下。

5. 28里面有（　　）个4，42里面有（　　）个6，（　　）比7个8少8。
6. 学校举行运动会，要在操场东侧插彩旗。按“三红二绿一黄”的顺序排列，第34面旗子是（　　）色的。
7. 用2、7、0、0组成的最大的四位数是（　　），最小的四位数是（　　）。
8. 有一堆苹果，比30个多，比40个少，分得的份数和每份的个数同样多，这堆苹果有（　　）个。
9. 亮亮折了27只纸鹤，红红比亮亮多折了35只，他俩一共折了（　　）只纸鹤。

二、辨一辨。（对的在括号里画“√”，错的画“×”。每题2分，共10分）

1. 计算24÷6和24÷4用不同的口诀求商。（　　）
2. 24比4个7少多少？正确的算式是24－4×7。（　　）
3. 每份分得同样多，叫平均分。（　　）
4. 500千克大米和500克面粉一样重。（　　）
5. 字母“M”和“F”都是轴对称图形。（　　）

三、选一选。（把正确答案的序号填在括号里。每题2分，共10分）

1. 10000里面有（　　）个100。
   ①10　　②100　　③1000
2. 一个四位数，十位上的数比百位上的数多2，千位上的数是百位上的数的3倍，个位上是0。这个数可能是（　　）。
   ①6210　　②6240　　③9530
3. 除数是一位数，商是9，余数是8，被除数是（　　）。
   ①98　　②89　　③80
4. 一本书，丁丁每天看5页，已经看了6天，还有36页没有看，这本书一共有多少页？正确的列式是（　　）。
   ①5＋6＋36　　②5×6＋36　　③36－5×6
5. 如果只买一瓶饮品，第（　　）种最便宜。



四、计算挑战。（共26分）

1. 看谁算得又对又快。（每题1分，共8分）

   20＋300＝　　500＋800＝　　64÷7＝　　42－12÷6＝

   18÷6＝　　72÷8＝　　56－36＝　　9×（2＋2）＝

2. 列竖式计算。（每题3分，共9分）

   45÷9＝　　70÷8＝　　38÷7＝

重点提示：请不要在密封线内答题哦！

关注微信公众号“教辅资料站”获取更多学习资料

3. 计算下面各题。（每题 3 分，共 9 分）

74 − 29 + 36　　50 − 30 ÷ 5　　48 ÷ (25 − 19)

4. 手套原来 12 元一双，现在换季促销，4 双 28 元。现在每双多少元？现在每双比原来便宜多少元？（6 分）

五、走进生活，解决问题。（共 33 分）

1. 一本书共 97 页，毛毛已经看了 61 页。（6 分）

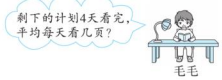

2. 4 只青蛙能都跳上去吗？（6 分）



3. 在右边的方格中，每行、每列都有 1 ~ 4 这四个数，并且每个数在每行、每列都只出现一次。B 应该是几？（6 分）

	3		
2			B
4		3	
	1		

5. 25 人去秋游。

（1）如果都坐大车，至少需要几辆大车？（3 分）



（2）如果都坐小车，至少需要几辆小车？（3 分）

（3）如果想让 25 人全乘坐上车，而且没有空位，那么应该坐（　　）辆大车和（　　）辆小车。（3 分）

关注微信公众号“教辅资料站”获取更多学习资料

期末复习冲刺卷 模块过关卷（四）

常考易错题综合

时间：60分钟　满分：100分

题号	一	二	三	四	五	总分
得分						

一、填一填。（第8题6分，其余每空1分，共22分）

1. 2700里面有（　　）个百；10个一千是（　　）。

2. □里最大能填几？

6□29＜6700　　3672＞□428　　1500＞1□95

3. 在□÷8＝7……□中，被除数最大是（　　），最小是（　　）。

4. 在计算48÷(8－2)时，应先算（　　）法，这道题的结果是（　　）。

5. 在（　　）里填上合适的质量单位。


300（　　）


150（　　）


62（　　）


4（　　）

6. 一根绳子长16米，对折再对折后，每段长（　　）米。

7. 下面的方格中，每行、每列都有1～4这四个数，并且每个数在每行、每列都只出现1次。A是（　　），B是（　　）。

1			2
A	4		
3		B	
		2	C

8. 在◯里填上“＞”“＜”或“＝”。

2485◯2458　　1千克◯900克　　13－6×2◯(13－6)×2

3600◯360　　3060克◯4千克　　21÷3×4◯40÷5

二、辨一辨。（对的在括号里画“√”，错的画“×”。每题2分，共10分）

1. 1千克铁比1千克棉花重。（　　）
2. 12与36的和里面有几个6？列式为12＋36÷6。（　　）
3. 滑滑梯属于旋转现象。（　　）
4. 田、子、中这三个汉字都是对称的。（　　）
5. 所有的四位数都比三位数大。（　　）

三、选一选。（把正确答案的序号填在括号里。每题2分，共10分）

1. 100张一共是（　　）元。

①100　　②1000　　③10000

2. 把18平均分成3份，每份是6，算式是（　　）。

①3×6＝18　　②18÷6＝3　　③18÷3＝6

3. 下面属于旋转现象的是（　　）

①水车的转动　　②热气球升空　　③电梯上下移动

4. 商是6的算式是（　　）。

①2×3　　②1＋5　　③36÷6

5. 以下要想得到左面的图案，应该将正方形纸按（　　）的方式剪掉涂色部分。



①

②

③

四、计算挑战。（共26分）

1. 看谁算得又对又快。（每题1分，共8分）

300＋500＝　　1300－500＝　　81÷9＝　　63÷9＝

15÷4＝　　3000－1000＝　　48÷8＝　　56÷7＝

2. 列竖式计算。（每题3分，共9分）

23÷3＝　　50÷6＝　　67÷9＝

关注微信公众号“教辅资料站”获取更多学习资料

温馨提示：请不要在密封线内答题哦！

姓名　学号　班级　学校

3. 计算下面各题。（每题 3 分，共 9 分）

$27 \div 3 \times 6$　　$16 - 7 \times 2$　　$(14 - 7) \times 9$

五、走进生活，解决问题。（共 32 分）

1. 至少要租多少辆小汽车？（6 分）



2. 爷爷感冒了，医生给他开了一瓶药。这些药够吃多少天？（6 分）

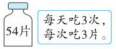

3. 有一捆 27 米长的绳子，剪下 7 米长做长跳绳，剩下的做 3 米长的短跳绳，最多能做多少根短跳绳？（6 分）

4. 小老鼠偷吃水果，它们三个分别偷吃了哪种水果？（7 分）



5. 下面是公园里动物数量的统计情况。（每个▭表示 1 只动物）



（1）（　　）最多，（　　）最少。（2 分）

（2）猴子比大象多（　　）只。（1 分）

（3）如果每个▭表示 2 只动物，上面的数据各是多少？完成下面的表格。（4 分）

数量	（　）只	（　）只	（　）只	（　）只

关注微信公众号“教辅资料站”获取更多学习资料

期末复习冲刺卷

期末测试卷

时间：60分钟　满分：100分

题号	一	二	三	四	五	六	七	总分
得分								

一、画一画，写一写。（每题2分，共6分）

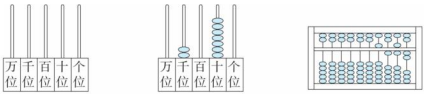

（　　）　　（　　）

二、填一填。（每空1分，共20分）

1. 数位顺序表右起第一位是（　　），万位是右起第（　　）位。
2. 一个数由3个千、4个十和5个一组成，这个数是（　　），读作（　　）。
3. 把一堆花生平均分给4个小朋友，如果有剩余，可能剩（　　）颗。
4. 8998后面的连续3个数是（　　）、（　　）、（　　）。
5. 4000克＝（　　）千克　　9千克＝（　　）克
6. 在4500、2806、7900中，最大的数是（　　），一个零也不读的是（　　），只读一个零的是（　　）。
7. 在抗洪抢险中，某村有34人被困。每条船最多坐5人，至少要准备（　　）条船才能让被困人同时脱险。
8. 在◯里填上“＞”“＜”或“＝”。

6910 ◯ 6901　　946 ◯ 1201　　2000克 ◯ 700千克

1000－300 ◯ 700　　48÷6 ◯ 48÷8　　200千克 ◯ 200克

三、辨一辨。（对的在括号里画“√”，错的画“×”。每题1分，共5分）

1. 28÷6＝4……4读作：28除6等于4余4。（　　）
2. 把6个苹果放在3个盘子里，每个盘子里一定有2个。（　　）
3. 用0、3、0、8四个数字组成一个四位数，最大的四位数是8300。（　　）
4. 推拉窗的开和关是旋转现象。（　　）
5. 最小的三位数和最大的三位数的和是1000。（　　）

四、选一选。（把正确答案的序号填在括号里。每题1分，共5分）

1. 下面图形中，不是轴对称图形的是（　　）

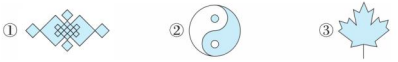

2. 右边的秤最多能称（　　）重的物体。

①5千克　　②3千克　　③500克



3. 下面四个数中，最接近6000的是（　　）。

①5860　　②6150　　③5980

4. 在计算16＋4×5时，要先算（　　）

①4×5　　②16＋4　　③16×5

5. 小莉上二年级，她的体重大约是（　　）

①3千克　　②30千克　　③300克

五、计算挑战。（共30分）

1. 看谁算得又对又快。（每题1分，共12分）

21÷3＝　　24÷6＝　　36÷6＝　　45÷9＝

47÷5＝　　58÷8＝　　22÷3＝　　55÷8＝

250＋300＝　　6000＋600＝　　700＋280＝　　250－50＝

2. 列竖式计算。（每题3分，共9分）

29÷8＝　　44÷5＝　　64÷9＝

3. 计算下面各题。（每题3分，共9分）

81－33＋47　　64－(36＋8)　　(78－69)×4

姓名 学号 班级 学校
密 封 线
注意书写：请不要在密封线内答题哦！

关注微信公众号“教辅资料站”获取更多学习资料

六、我会推理。(连一连，6分)

小军的玻璃球比小亮多。小芳的玻璃球比小军少。小亮的玻璃球比小芳多。



七、走进生活，解决问题。(共28分)

1. 停车8小时，付给停车场100元。要找回多少钱？(5分)



2. 程老师和张老师带36名小朋友一起去划船，每条船最多坐4人，至少需要租几条船？(5分)

3. 张一和王丁都是集邮爱好者。张一给王丁几枚后，两人的邮票一样多？(6分)



4. 服装店。

(1) 夹克比T恤贵多少钱？(2分)



(2) 买一件夹克和一条裤子一共需要多少钱？(2分)

(3) 你还能提出其他数学问题并解答吗？(2分)

5. 动物王国举行大选，每个候选人得票情况如下：

(1) 根据下面的结果完成统计表。(2分)

熊猫	猴子	兔子	狮子
正	正	丅	正
一	下		正

动物	熊猫	猴子	兔子	狮子
票数				

(2) 我认为（　　）应当选为大王。(2分)

(3) 小鹿因为有事没参加，如果小鹿也来投票，结果会怎样？(2分)

关注微信公众号“教辅资料站”获取更多学习资料

期末复习冲刺卷

杭州市名校期末测试卷

时间：60分钟　满分：100分

题号	一	二	三	四	五	六	总分
得分							

一、填一填。（每空1分，共27分）

1. 16个气球每4个扎成一束，可以扎成（　　）束；49个苹果，（　　）只刺猬来运，平均每只运7个。
2. □÷5=6……△，△最大是（　　），最小是（　　）。
3. 汽车在笔直的公路上行驶，车身做（　　）运动，车轮做（　　）运动。
4. 四千零四写作（　　），7080读作（　　）。
5. 6999后面紧接着的3个数分别是（　　）、（　　）、（　　）。
6. 根据八九七十二计算的除法算式是（　　）、（　　）。
7. 由9个千、2个十、3个一组成的数是（　　）。
8. 在没有括号的混合运算中，如果是同一级运算，按（　　）的顺序计算，如果既有加减法又有乘除法，应先算（　　），再算（　　）。
9. 在（　　）里填上合适的质量单位。



25（　　）


250（　　）



900（　　）


4（　　）

10. 在◯里填入“>”“<”或“=”。

2000克◯2千克　　6100克◯6千克　　5068◯6058

999◯1002　　2×6◯81÷9　　63÷9◯24÷3

二、辨一辨。（对的在括号里画“√”，错的画“×”。每题1分，共5分）

1. 读万以内的数，只要是零都要读。（　　）
2. 用5、0、1、6四张卡片，组成最小的四位数是1560。（　　）
3. 4678中的“6”表示6个百。（　　）
4. 字母“E”和“W”都是轴对称图形。（　　）
5. 50千克大米比500克大米轻。（　　）

三、选一选。（把正确答案的序号填在括号里。每题1分，共5分）

1. 和12÷2÷3的计算结果相同的算式是（　　）。

①12÷2×3　　②12÷(2×3)　　③12×2÷3

2. 2个图钉大约重（　　）。

①1克　　②100克　　③1千克

3. 一组图形的排列顺序是△○□▱△○□▱△……，那么第25个图形是（　　）。

①△　　②○　　③□

4. 你认为下列图形中轴对称图形有（　　）个。





①1　　②2　　③3

5. 下面哪个算盘上的数读作一万，你的选择是（　　）。

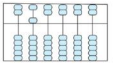
①

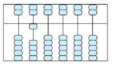
②

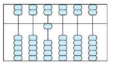
③

四、计算挑战。（共29分）

1. 看谁算得又对又快。（每题1分，共12分）

9×5=	760−700=	40÷8=	1200+800=
6÷6=	63−9=	7×7=	240−70=
24÷6=	30÷5=	900+1000=	8÷1=

2. 列竖式计算。（每题2分，共8分）

50÷6=　　78÷8=　　40÷5=　　19÷2=

关注微信公众号“教辅资料站”获取更多学习资料

温馨提示：请不要在密封线内答题哦！

姓名　学号　班级　学校

3. 计算下面各题。（每题 3 分，共 9 分）

80 − 40 ÷ 5　　3 + 6 × 4　　32 ÷ (65 − 57)

五、动手操作，智慧大脑。（4 分）

下面哪些树叶平移后能与灰色的树叶重合？圈一圈。



六、走进生活，解决问题。（共 30 分）

1. 二（1）班第一小组一共捐了 27 本故事书和 32 本科技书。可以送给几位小朋友？（6 分）

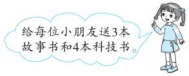

2. 购物。


428元


399元

（1）买一辆自行车和一个电饭煲大约要多少钱？（3 分）

（2）爸爸带 900 元买这两样够吗？（3 分）

3. 某超市水果价格如下表：

水果	苹果	梨	香蕉	石榴
价格	4 元/500 克	3 元/500 克	2 元/500 克	7 元/500 克

（1）买 1 千克苹果和 500 克梨需要多少钱？（3 分）

（2）买 1500 克香蕉和 1500 克石榴需要多少钱？（3 分）

4. 在下面的方格中，每行、每列都有 1 ~ 5 这五个数，并且每个数在每行、每列都只出现一次，把下面的方格填完整。（6 分）

		1		
	5		1	2
		2		4
			4	
1		3		

5. 22 个同学去旅游。

（1）如果全部住大房，至少要多少间？（2 分）



（2）如果全部住小房，至少要多少间？（2 分）

（3）如果大房和小房都住，还可以怎样安排？（2 分）

关注微信公众号“教辅资料站”获取更多学习资料

期末复习冲刺卷

黄冈市名校期末测试卷

时间：60分钟　满分：100分

题号	一	二	三	四	五	总分
得分						

一、填一填。（每题2分，共28分）

1. 收费站昨天通过了8009辆汽车，约是（　　）辆。
2. 一个四位数，它的最高位是（　　）位，从右边起第三位上数字是6，它表示（　　）个（　　）。
3. 9个千、5个十和6个一组成的数是（　　）。
4. 算盘可以用来帮助数数、计数，算盘一个下珠表示（　　），一个上珠表示（　　）。
5. 6月份有30天，有（　　）个星期，还多（　　）天。
6. 7800里面有（　　）个百，25个百是（　　）。
7. 有18支铅笔，插在2个笔筒里，一个笔筒插6支，另一个笔筒插（　　）支。
8. 81里面有（　　）个9，29里面最多有（　　）个9。
9. 一个梨大约重150（　　），2袋盐大约重1（　　）。
10. □÷9=7……□中，余数最大是（　　），这时被除数是（　　）。
11. 钢笔原来9元一支，现在优惠促销，一次买4支28元，促销的钢笔每支（　　）元，每支比原来便宜（　　）元。
12. （　　）×5=30　　（　　）÷3=9
13. 在◯里填“>”“<”或“=”。

    5089 ◯ 6000　　2800克 ◯ 3千克
14. 按从小到大的顺序排列下面各数。

    7008　7080　7800　7089

    （　　）<（　　）<（　　）<（　　）

二、辨一辨。（对的在括号里画“√”，错的画“×”。每题1分，共5分）

1. 从48里连续减8，减6次后结果为0。（　　）
2. 用“正”字来记录数据，一个“正”字表示5个数据。（　　）
3. 53+3×9这道算式要按从左往右的顺序计算。（　　）
4. 512，305，850这三个数中的“5”表示的意义相同。（　　）
5. 读数时，中间有一个0或两个0，只读一个0；末尾有几个0就读几个0。（　　）

三、选一选。（把正确答案的序号填在括号里。每题1分，共5分）

1. 下面的数中，一个零也不读的是（　　）。

    ①4300　②8007　③5609　④7080
2. 下面是几种汽车的标志，在这几个标志图案中是轴对称的图形有（　　）个。



    ①2个　②3个　③4个　④1个
3. 与3999相邻的两个数是（　　）。

    ①3998，4001　②4000，3998　③3997，3998　④3998，4002
4. 钟面上，分针从12旋转到3，经过的时间是（　　）。

    ①3分　②3小时　③15分　④20分
5. 三个同学踢毽子，分别踢了15个、20个、18个，小明踢的个数不是最多的，小红踢的个数也不是最多的，小明比小红踢得多，则（　　）踢了18个。

    ①小红　②小明　③小兰　④没有人

四、计算挑战。（共32分）

1. 看谁算得又对又快。（每题1分，共8分）

    40÷5=　　35−7=　　5×6=　　2000+5000=

    8÷8=　　3×7=　　63÷7=　　48÷6=
2. 列竖式计算。（每题2分，共6分）

    38÷6=　　53÷7=　　100−19=

关注微信公众号“教辅资料站”获取更多学习资料

姓名　学号　班级　学校
重点提示：请不要在密封线内答题哦！

3. 计算下面各题。（每题 3 分，共 18 分）

$26+14\div7$　　$23+6\times6$　　$80-34-34$

$81\div(3\times3)$　　$54-(62-34)$　　$18\div2\times3$

五、走进生活，解决问题。（共 30 分）

1. 商店里有苹果 25 个、梨 19 个、哈密瓜 10 个。李叔叔想用 6 个苹果、5 个梨、2 个哈密瓜做成水果礼盒。这些水果最多可以做成多少个这样的水果礼盒？（4 分）

2. 学校原来有 16 个篮球，又买来 8 个篮球。李老师想把这些篮球放在 3 个球筐里，平均每个球筐放几个篮球？（4 分）

3. 小明准备周末练习 50 个毛笔字，已经写了 9 行，每行写了 4 个毛笔字，还要写多少个毛笔字？（4 分）

4. 星期天，29 个同学去公园划船。一条大船只能坐 6 人，一条小船只能坐 4 人。如果都坐大船，至少要几条？如果都坐小船，至少要几条？（4 分）

5. 一场篮球赛分为上半场和下半场，二（1）班上半场得了 24 分，全场总分是 42 分。上半场两个班的得分一样多，二（2）班的全场总分是 38 分，二（2）班下半场得了多少分？（4 分）

6. 你会统计下面的图形吗？

（1）先用画“正”字法统计。（4 分）

△ ____ 个

□ ____ 个

○ ____ 个

▭ ____ 个



（2）再根据统计结果，制作成统计表。（4 分）

图形	三角形	正方形	圆形	长方形
个数				

（3）根据统计表，回答问题。（2 分）

①三角形的个数是用 3 个“正”字记录的，求三角形的个数用到的乘法算式是（　　）。（1 分）

②上面的长方形每个小朋友分 4 个，可以分给（　　）个小朋友。（1 分）

关注微信公众号“教辅资料站”获取更多学习资料

第 1 单元跟踪检测卷

数据收集整理

一、1.（1）游泳　钢琴　（2）6　钢琴
2.（1）苹果　梨　（2）38　（3）苹果
3.（1）文文　明明　（2）1　1　文文
（3）可能
4.（1）小轿车　9　（2）31　（3）48

二、1.（1）

√ √ √ √ √ √ √	正 正	正 正 丁	○○○○ ○○

（统计方法不唯一）
（2）西红柿　豆角　（3）5
（4）茄子和西红柿共有多少个？
7 + 12 = 19（个）
口答：茄子和西红柿共有 19 个。

2.

图形	▭	△	□	○
个数	6	7	6	4

（2）①23　②△　○　▭　□
③△比○多 3 个。（答案不唯一）

3.

姓名	龙龙	元元	兰兰	刚刚
票数	5	7	9	3

（2）兰兰　刚刚　（3）兰兰
（4）**口答：**如果王芳也投了票，结果不变。因为不论她的票投给谁，兰兰的票数都是最多的。
【点拨】如果王芳投给第二名的元元，7 + 1 = 8（票），8 还是小于 9，所以兰兰的票数还是最多。

4.

品牌	甲品牌	乙品牌	丙品牌	丁品牌
台数	12	18	14	9

（2）5
（3）**口答：**建议多进些乙品牌学习机。（答案不唯一）

5.（1）春　冬
（2）16 + 9 = 25（人）
25 + 12 = 37（人）
37 + 7 = 44（人）
口答：这个班一共有 44 人。
（3）12 − 7 = 5（人）
口答：喜欢冬季的同学比喜欢秋季的少 5 人。
（4）**口答：**如果组织同学们游玩，最好应安排在春季。（答案不唯一）

6.（1）踢球　套圈　（2）4
（3）**口答：**最有可能参加踢球活动。
【点拨】是“最有可能”的情况，而不是“一定”的情况。

（4）

活动	跳绳	踢球	套圈	踢毽子
人数	12	18	4	10

【点拨】原来 ▭ 表示 1 个同学，而现在 ▭ 表示 2 个同学，说明现在活动的人数是原来各活动人数的 2 倍。

第 2 单元跟踪检测卷

表内除法（一）

一、1. 24　4　6
2. 12　除数　4　三四十二
3. 5　4. 30 ÷ 5 = 6　30 ÷ 6 = 5
5. 3　15 ÷ 5 = 3
6. 12　5　【点拨】一只小鸟有 2 条腿，一只青蛙有 4 条腿。
7.（1）15　（2）5

二、1. ×　2. √　3. ×　4. ×　5. ×

三、1. ③　2. ②　3. ②　4. ③　5. ②

四、1. 12　6　9　2　4　35　3　3　15　1　5
2. −　+　÷　−　×　−　÷　+
3. 4　8　4　25　1　4

五、1. 12 ÷ 3 = 4　2. 12 ÷ 2 = 6

六、1. 18 ÷ 6 = 3（次）　18 ÷ 3 = 6（个）
2.（1）6 × 2 = 12（条）
口答：2 盘一共有 12 条鱼。
（2）12 ÷ 3 = 4（条）
口答：每只小猫分得 4 条鱼。
3. 3 + 1 = 4（个）　12 ÷ 4 = 3（支）
口答：平均每个小朋友分 3 支棒棒糖。
【点拨】不要用 12 ÷ 3，因为豆豆和她的 3 个好朋友一共是 4 个小朋友。

4.（1）10 ÷ 2 = 5（个）
口答：一共可以挂 5 个大门。
（2）10 − 2 = 8（个）
口答：还剩 8 个。
5.（1）24 ÷ 6 = 4（辆）
口答：需要租 4 辆。
（2）24 ÷ 4 = 6（辆）
口答：需要租 6 辆。

第 4 单元跟踪检测卷

表内除法（二）

一、1. 1　8 ÷ 8 = 1　2. 8　27　3. 8　9
4. 8　八九七十二　72 ÷ 8 = 9
5. 36　9 × 4 = 36（架）
6　36 ÷ 6 = 6（组）
【点拨】注意带上单位。
6. 8　7　7. 9　9
8. >　<　<　>　<　=

二、1. ×　2. ×　3. ×　4. ×　5. √

三、1. ③　2. ②　3. ③　4. ③　5. ①

四、1. 9　48　40　72　8　9　55　12　40　9　16　7
2. 4　81　14　2　5（第3道题答案不唯一）
3. −　×　÷　+　÷　×　÷　+
4. 36 ÷ 4　72 ÷ 9　35 ÷ 5　42 ÷ 7　45 ÷ 9

五、1.（1）36 ÷ 9 = 4（组）
口答：可以分成 4 组。
（2）36 ÷ 6 = 6（人）
口答：每组有 6 人。
2. 36 ÷ 4 = 9（元）　10 − 9 = 1（元）
口答：香瓜子现在每袋 9 元，现在每袋比原来便宜 1 元。
3. 42 ÷ 6 = 7（件）　56 ÷ 8 = 7（件）
口答：这些花能做 7 件标本，这些树叶能做 7 件标本。
4.（1）4 × 6 = 24（元）
口答：一共花了 24 元钱。
（2）24 ÷ 8 = 3（份）
口答：能买 3 份。
5.（1）6 × 8 = 48（元）
口答：一件上衣 48 元钱。
（2）36 ÷ 9 = 4（元）
口答：一支牙膏 4 元钱。
（3）买一双鞋的钱可以买多少条围巾？
36 ÷ 6 = 6（条）
口答：可以买 6 条围巾。
【点拨】题目是要求提出用乘法或除法解决的问题，而不能提出用加法或减法解决的问题。此问答案不唯一。

第 5 单元跟踪检测卷

混合运算

一、1. 括号里　2. 减　加
3. 乘　加　21　【点拨】加法在前、乘法在后，有的同学往往先算加法，是错误的。
4. 9　5. <　=　>　6. 31　7. 9
8. 小兔子兄弟一共采了多少个蘑菇（42 + 30）
—共可以装几篮（72 ÷ 9）
（42 + 30）÷ 9 = 8（篮）

二、1. ×　2. ×　3. √　4. √　5. √

三、1. ②　2. ②　3. ②　4. ③
5. ③　【点拨】如果只买 6 本书，不能优惠，列式是 6 × 8 = 48（元）；如果买 8 本书，可以优惠，每本 8 − 2 = 6（元），6 × 8 = 48（元）。用同样多的钱，肯定买 8 本更实惠。

四、1.
5 + 3 × 8　　36 − 24 ÷ 6
= 5 + 24　　= 36 − 4
= 29　　= 32
42 − 18 + 12　　5 × (28 ÷ 7)
= 24 + 12　　= 5 × 4
= 36　　= 20
4 × 6 ÷ 3　　54 − (62 − 57)
= 24 ÷ 3　　= 54 − 5
= 8　　= 49

2. 28　4　(60 − 32) ÷ 7 = 4
8　48　6 × (64 ÷ 8) = 48

五、1. 42 + 4 × 6 = 66（元）
2.（56 − 24）÷ 8 = 4（袋）

六、1.（27 + 29）÷ 8 = 7（人）
口答：平均每行 7 人。
2. 8 ×（8 − 6）= 16（元）
口答：小丽比小林多花 16 元钱。
【点拨】另一种方法是 8 × 8 − 8 × 6，但 8 ×（8 − 6）这种方法要简便和灵活些。
3.（24 − 6）÷ 2 = 9（元）
口答：成人票一张 9 元钱。
4.（1）（50 − 29）÷ 7 = 3（双）
口答：买了一架玩具摩托车后还可以买 3 双袜子。

关注微信公众号“教辅资料站”获取更多学习资料

（2）3×9+24=51（元）

口答：一共花了51元钱。

（3）买5双袜子和一顶帽子共花多少钱？

5×7+9=44（元）

口答：买5双袜子和一顶帽子共花44元钱。

【点拨】第（3）问答案不唯一。

期中检测卷

一、1. 4　48　2. 42÷6=7　42÷7=6

3. 旋转　平移　4. 除　减

5. －　×　÷　+

6. 10　6　7　【点拨】先求出已知算式的结果，再求出括号里的未知数。

7. 7　5

8. 中、田（答案不唯一）　9. 36　4

二、1. ×　2. ×　3. √　4. √　5. ×

三、1. ②　2. ①　3. ②　4. ②　5. ②

四、1. 10　18　30　6　8　5　9　0　9　1　36　2

2.
6+3×9	(42+14)÷7
=6+27	=56÷7
=33	=8
2×9÷3	65－30÷5
=18÷3	=65－6
=6	=59
76－(28+9)	72+8÷3
=76－47	=9÷3
=29	=3

3. 6　54　9×(54－48)=54　9　70　81÷9+61=70

五、1. 4×(6+8)=56（袋）

口答：一共运了56袋粮食。

2. 62－(56－39)=45（分）

口答：第二轮二（2）班得了45分。

3. 8－3=5（人）　2×8+5=21（人）

口答：一共有21人。

4.（1）6×9+8=62（元）

口答：一共需要62元钱。

（2）32÷8=4（个）

口答：能刚好买玩具汽车，能买4个。

（3）6个皮球多少元钱？

6×7=42（元）

口答：6个皮球42元钱。

【点拨】第（3）问答案不唯一。

5.（1）17　11　3

（2）17+11+3=31（天）

口答：这个月共有31天，这个月属于冬季。

第6单元跟踪检测卷

有余数的除法

一、1. 圈一圈略。　12÷5=2（组）……2（个）　16÷6=2（组）……4（个）

2. 5　5　3. 2　8　4. 8　5. 6　4

6. 8　71　【点拨】除数比余数大，余数是7，除数最小是8，求被除数，用商×除数+余数。

7. 5　9　6　5　7　7

二、1. ×　2. √　3. √　4. ×　5. ×

三、1. ③　2. ②　3. ③

4. ②　【点拨】共有4个小朋友，欢欢报的数除以4余数一定是1。

5. ③

四、1. 3……3　6……2　8……2　7……3　5……1　7……1

2.
27÷6=4……3	60÷8=7……4
6)27, 24, 3	8)60, 56, 4
83÷9=9……2	47÷5=9……2
9)83, 81, 2	5)47, 45, 2
29÷9=3……2	24÷7=3……3
9)29, 27, 2	7)24, 21, 3

五、1. 19÷3=6（组）……1（盆）

口答：第19盆是红颜色的花。

2. 47÷6=7（架）……5（人）

口答：最多可以做7架飞机模型。

3. 19－8=11（只）　11÷3=3（辆）……2（只）　3+1=4（辆）

口答：至少需要4辆小汽车。

【点拨】坐3辆小汽车后，还有2只小动物没上车，说明剩下的2只小动物还需要1辆小汽车。

4. 32÷4=8（个）　22÷5=4（个）……2（个）　19÷2=9（个）……1（个）　4<8<9

口答：这些水果最多可以装成4个水果篮。

5.（1）37÷4=9（辆）……1（人）

口答：最多可以坐满9辆车，会有剩余1人。

（2）37÷9=4（辆）……1（人）　4+1=5（辆）

口答：至少要租5辆。

（3）9×1+4×7=37（人）

口答：可以租1辆面包车和7辆小汽车。

【点拨】第（3）问答案不唯一。

第7单元跟踪检测卷

万以内数的认识

一、3020　三千零二十　5126　五千一百二十六　3500　三千五百　2602　二千六百零二

二、1. 一百　一百　一万

2. 5　1

3. 10000　100　10　4. 7　6　9

5.（1）3　（2）2　（3）2

6. 5600　78　7. 8620　2068

8. 六千三百九十七　9008

三、1. ×　2. √　3. ×　4. ×　5. ×

四、1. ②　2. ①　3. ①　4. ③　5. ③

五、1. 3000　500　900　60　3000　1300　3700　4900　1500　1500　6100　2900

2. 0　8或9　9　0或1　9　0

3. >　<　>　=

六、1. 南京路小学　朝阳小学　希望小学

2. 300+280=580（个）　580<600

口答：剩下的气球不够。

3. 200+270=470（元）　470－400=70（元）

口答：明明剩下的钱不够，明明至少还要积攒70元钱。

4.（1）180+290+370+300=1140（人）　1140>600

口答：一至四年级所有同学不能同一场次看话剧。

（2）370+180=550（人）　300+290=590（人）

口答：一年级和三年级一起看，二年级和四年级一起看。

【点拨】遇到此类题，要学会最大数搭配最小数。

5.（1）1204≈1000　6028≈6000　3915≈4000

口答：游玩的人数各接近1000人、6000人、4000人。

（2）6000－1000=5000（人）

口答：游玩人数最多的比最少的大约多5000人。

第9单元跟踪检测卷

数学广角——推理

一、1. 三　二　一

2. 0　9　5　【点拨】先推理出唯一的情况，再从两种情况中推出唯一的情况。

3. 文文　乐乐　聪聪　欢欢

4. 三角形　圆　正方形

5. ①　②　③

二、1. ③　2. ③　3. ③　4. ③　5. ①

三、1.



2.
3 7	4 5	9 2	9 4
+5 4	+1 7	−3 8	−3 8
9 1	6 2	5 4	5 6

【点拨】第3个和第4个答案不唯一。

3. ×　×　√　×　√　×　√　×　×　语文　英语　数学

四、1. 黑兔　白兔　灰兔



口答：黑兔种白菜，白兔种萝卜，灰兔种南瓜。

2. 方方的爸爸　林林的爸爸　天天的爸爸



口答：方方的爸爸是医生，林林的爸爸是工人，天天的爸爸是解放军。

3.
祖	爱	国	热
爱	祖	热	国
热	国	爱	祖
国	热	祖	爱

关注微信公众号“教辅资料站”获取更多学习资料

期末复习冲刺卷

模块过关卷（一） 计算的挑战

一、1. $18\div3=6$　$3+4=7$

2. 13　5　8　800

3. 4　四六二十四　6　六九五十四

4. 千克　克　克　千克

5. 300　【点拨】答案不唯一，估成 200－400 粒都可以。

10

6. 1000　四

7. 4000　7　10　1800

8. 6　5　7

二、1. ×　2. ×　3. √　4. ×　5. ×

三、1. ③　2. ①

3. ③　【点拨】除了百位，两个数其余数位上的数都一样，有 5、6、7、8、9 比 4 大，所以有 5 种填法。

4. ②　5. ②

四、1. 5　8　260　420　80　7　$8\div6=1$……2　4　9　5　3……2　5……7

2. $40\div7=5$……5　　$57\div8=7$……1

$$7\overline{)40}\quad\begin{array}{r}5\\35\\\hline5\end{array}$$

$$8\overline{)57}\quad\begin{array}{r}7\\56\\\hline1\end{array}$$

$32\div6=5$……2　　$42\div7=6$

$$6\overline{)32}\quad\begin{array}{r}5\\30\\\hline2\end{array}$$

$$7\overline{)42}\quad\begin{array}{r}6\\42\\\hline0\end{array}$$

$60\div8=7$……4　　$38\div4=9$……2

$$8\overline{)60}\quad\begin{array}{r}7\\56\\\hline4\end{array}$$

$$4\overline{)38}\quad\begin{array}{r}9\\36\\\hline2\end{array}$$

3. $58-29+35$　　$45-28\div7$
$=29+35$　　$=45-4$
$=64$　　$=41$
$(27+18)\div5$
$=45\div5$
$=9$

4. ÷　×　−　+　÷　+

五、1. $16\div4=4$（次）
口答：第 4 次才能进去。

2. $24+30=54$（人）　$54\div6=9$（顶）
口答：共需要搭 9 顶帐篷。

3. $60-12=48$（页）
$7-1=6$（天）
$48\div6=8$（页）
口答：剩下的平均每天看 8 页。
【点拨】因为花了一天看了 12 页，因此剩下的还有 $7-1=6$（天）。

4. $5\times8-35=5$（个）　**口答：**还要包 5 个。

5. （1）$500+500=1000$（克）
1000 克＝1 千克
$500+500+500=1500$（克）
$2\times6+3\times4=24$（元）
口答：需要 24 元。
（2）买 1 千克葡萄要多少钱？
$12+12=24$（元）
口答：买 1 千克葡萄要 24 元。（答案不唯一）

模块过关卷（二） 统计与几何

一、1. 旋转　平移　平移　平移　平移　旋转　平移　旋转

2. √　×　√　√　×

3. 平移　旋转　平移

4. 8　台灯　中　A　五角星

5. （1）12　15　（2）34　（3）5
（4）秋　夏

二、1. ×　2. √　3. √　4. √　5. √

三、1. ②　2. ①　3. ①

4. （1）③　（2）①

四、

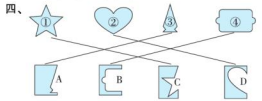

五、1.（1）4　13　14　3
（2）**口答：**穿 31 码的同学最多，穿 32 码的同学最少。
（3）**口答：**根据数据买相应鞋码的运动鞋，因为每个人脚的大小不一样。

2.（1）$11+21+10=42$（人）
口答：二（1）班一共有 42 人。
（2）最喜欢去动物园和游乐园的人数比去植物园的多多少人？
$11+21-10=22$（人）
口答：最喜欢去动物园和游乐园的人数比去植物园的多 22 人。（答案不唯一）
（3）建议组织同学们去游乐园进行春游活动。因为最喜欢去游乐园的人最多。（答案不唯一）

模块过关卷（三） 实际应用

一、1. 一千零六十六　1　6　6

2. 400　3. 16　6

4. 30　26　45　【点拨】本题要将数的大小关系与推理相结合进行解题。

5. 7　7　48　6. 绿

7. 7200　2007

8. 36　9. 89

二、1. ×　2. ×　3. √　4. ×　5. ×

三、1. ②　2. ②　3. ②　4. ②　5. ②

四、1. 320　1300　9……1　40　3　9　20　36

2. $45\div9=5$　　$70\div8=8$……6

$$9\overline{)45}\quad\begin{array}{r}5\\45\\\hline0\end{array}$$

$$8\overline{)70}\quad\begin{array}{r}8\\64\\\hline6\end{array}$$

$38\div7=5$……3

$$7\overline{)38}\quad\begin{array}{r}5\\35\\\hline3\end{array}$$

3. $74-29+36$　　$50-30\div5$
$=45+36$　　$=50-6$
$=81$　　$=44$
$48\div(25-19)$
$=48\div6$
$=8$

五、1. $(97-61)\div4=9$（页）
口答：平均每天看 9 页。

2. $300+300=600$（克）
$600+600=1200$（克）
1200 克＞1 千克
口答：4 只青蛙不能都跳上去。

3. **口答：**B 应该是 3。

4. $28\div4=7$（元）
$12-7=5$（元）
口答：现在每双 7 元，现在每双比原来便宜 5 元。

5.（1）$25\div7=3$（辆）……4（人）
$3+1=4$（辆）
口答：至少需要 4 辆大车。
（2）$25\div4=6$（辆）……1（人）
$6+1=7$（辆）
口答：至少需要 7 辆小车。
（3）3　1　【点拨】因为 $7\times3+4\times1=25$（人），所以坐 3 辆大车和 1 辆小车刚好合适，没有空位。

模块过关卷（四） 常考易错题综合

一、1. 27　10000　2. 6　3　4

3. 63　57　4. 减　8

5. 克　千克　千克　千克

6. 4　【点拨】对折再对折就把这根绳子平均分成了 4 段。

7. 2　1

8. ＞　＞　＜　＞　＜　＞

二、1. ×　2. ×　3. ×　4. ×　5. √

三、1. ③　2. ③　3. ①　4. ③　5. ①

四、1. 800　800　9　7　3……3　2000　6　8

2. $23\div3=7$……2　　$50\div6=8$……2

$$3\overline{)23}\quad\begin{array}{r}7\\21\\\hline2\end{array}$$

$$6\overline{)50}\quad\begin{array}{r}8\\48\\\hline2\end{array}$$

$67\div9=7$……4

$$9\overline{)67}\quad\begin{array}{r}7\\63\\\hline4\end{array}$$

3. $27\div3\times6$　　$16-7\times2$
$=9\times6$　　$=16-14$
$=54$　　$=2$
$(14-7)\times9$
$=7\times9$
$=63$

五、1. $26\div6=4$（辆）……2（人）
$4+1=5$（辆）
口答：至少要租 5 辆小汽车。

2. $3\times3=9$（片）　$54\div9=6$（天）
口答：这些药够吃 6 天。

3. $27-7=20$（米）
$20\div3=6$（根）……2（米）
口答：最多能做 6 根短跳绳。
【点拨】剩下的 2 米不能做一根短跳绳，因此商不用加 1。

4. **口答：**小灰偷吃的是梨，小黑偷吃的是苹果，小白偷吃的是桃子。

5.（1）猴子　大象　（2）7
（3）4　18　8　12

关注微信公众号“教辅资料站”获取更多学习资料

期末测试卷

一、



2070　5162

二、1. 个　五　2. 3045　三千零四十五

3. 1－3　【点拨】余数比除数小。

4. 8999　9000　9001

5. 4　9000　6. 7900　4500、7900　2806

7. 7　8. ＞　＜　＜　＝　＞　＞

三、1. ×　2. ×　3. √　4. ×　5. ×

四、1. ②　2. ①　3. ③　4. ①　5. ②

五、1. 7　4　6　5　9……2　7……2　7……1　6……7　550　6600　980　200

2. $29\div8=3\cdots\cdots5$　　$44\div5=8\cdots\cdots4$

$$8\overline{)29}\quad\begin{array}{r}3\\24\\\hline5\end{array}$$

$$5\overline{)44}\quad\begin{array}{r}8\\40\\\hline4\end{array}$$

$64\div9=7\cdots\cdots1$

$$9\overline{)64}\quad\begin{array}{r}7\\63\\\hline1\end{array}$$

3. $81-33+47$　　$64-(36+8)$

$=48+47$　　$=64-44$

$=95$　　$=20$

$(78-69)\times4$

$=9\times4$

$=36$

六、



七、1. $4\times8=32$（元）　$100-32=68$（元）

口答：要找回 68 元。

【点拨】先要求出停车 8 小时一共收费多少元。

2. $36+2=38$（人）

$38\div4=9$（条）……2（人）

$9+1=10$（条）

口答：至少需要租 10 条船。

3. $98-80=18$（枚）

$18\div2=9$（枚）

口答：张一给王丁 9 枚后，两人的邮票一样多。

4.（1）$1100-300=800$（元）

口答：夹克比 T 恤贵 800 元。

（2）$1100+200=1300$（元）

口答：买一件夹克和一条裤子一共需要 1300 元。

（3）问：一条裙子比一件 T 恤贵多少钱？

$500-300=200$（元）

口答：一条裙子比一件 T 恤贵 200 元。（答案不唯一）

5.（1）6　8　2　10

（2）狮子

（3）**口答：**如果小鹿也来投票，也不能影响狮子选为大王的结果。

【点拨】小鹿这一票不管投给谁，都无法比狮子的 10 票还要多。

杭州市名校期末测试卷

一、1. 4　7　2. 4　1

3. 平移　旋转

4. 4004　七千零八十

5. 7000　7001　7002

6. $72\div8=9$　$72\div9=8$

7. 9023　8. 从左往右　乘除法　加减法

9. 千克　克　克　千克

10. ＝　＞　＜　＜　＞　＜

二、1. ×　2. ×　3. √　4. √　5. ×

三、1. ②　2. ①　3. ①　4. ②　5. ②

四、1. 45　60　5　2000　1　54　49　170　4　6　1900　8

2. $50\div6=8\cdots\cdots2$　　$78\div8=9\cdots\cdots6$

$$6\overline{)50}\quad\begin{array}{r}8\\48\\\hline2\end{array}$$

$$8\overline{)78}\quad\begin{array}{r}9\\72\\\hline6\end{array}$$

$40\div5=8$　　$19\div2=9\cdots\cdots1$

$$5\overline{)40}\quad\begin{array}{r}8\\40\\\hline0\end{array}$$

$$2\overline{)19}\quad\begin{array}{r}9\\18\\\hline1\end{array}$$

3. $80-40\div5$　　$3+6\times4$

$=80-8$　　$=3+24$

$=72$　　$=27$

$32\div(65-57)$

$=32\div8$

$=4$

五、略

六、1. $27\div3=9$（位）

$32\div4=8$（位）

$8<9$　**口答：**可以送给 8 位小朋友。

2.（1）$428\approx400$　$399\approx400$

$428+399\approx800$（元）

口答：买一辆自行车和一个电饭煲大约要 800 元钱。

（2）$428<500$　$399<400$

$428+399<900$

口答：爸爸带 900 元买这两样够。

【点拨】此题可以用估算方法来解决。

3.（1）1 千克＝1000 克

1000 克＝500 克＋500 克

$2\times4+3=11$（元）

口答：买 1 千克苹果和 500 克梨需要 11 元。

（2）1500 克＝500 克＋500 克＋500 克

$3\times(2+7)=27$（元）

口答：买 1500 克香蕉和 1500 克石榴需要 27 元。

4.

4	2	1	5	3
3	5	4	1	2
5	1	2	3	4
2	3	5	4	1
1	4	3	2	5

5.（1）$22\div4=5$（间）……2（人）

$5+1=6$（间）

口答：至少要 6 间。

（2）$22\div3=7$（间）……1（人）

$7+1=8$（间）

口答：至少要 8 间。

（3）$3\times6+4=22$（人）

口答：可以安排 6 间小房和 1 间大房。（答案不唯一）

【点拨】可以按顺序去思考，如果住一间大房，还剩下 $22-4=18$（人），刚好安排 6 间小房。

黄冈市名校期末测试卷

一、1. 8000　2. 千　6　百　3. 9056

4. 1　5　5. 4　2　6. 78　2500　7. 12

8. 9　3　9. 克　千克　10. 8　71

11. 7　2　【点拨】列式是 $9-7=2$（元）。

12. 6　27　【点拨】求被除数用乘法，被除数＝商×除数。

13. ＜　＜

14. 7008　7080　7089　7800

二、1. √　2. √　3. ×　4. ×　5. ×

三、1. ①　2. ②　3. ②　4. ③　5. ②

四、1. 8　28　30　7000　1　21　9　8

2. $38\div6=6\cdots\cdots2$　　$53\div7=7\cdots\cdots4$

$$6\overline{)38}\quad\begin{array}{r}6\\36\\\hline2\end{array}$$

$$7\overline{)53}\quad\begin{array}{r}7\\49\\\hline4\end{array}$$

$100-19=81$

$$\begin{array}{r}100\\-\ 19\\\hline81\end{array}$$

3. $26+14\div7$　　$23+6\times6$

$=26+2$　　$=23+36$

$=28$　　$=59$

$80-34-34$　　$81\div(3\times3)$

$=46-34$　　$=81\div9$

$=12$　　$=9$

$54-(62-34)$　　$18\div2\times3$

$=54-28$　　$=9\times3$

$=26$　　$=27$

五、1. $25\div6=4$（个）……1（个）

$19\div5=3$（个）……4（个）

$10\div2=5$（个）　$3<4<5$

口答：这些水果最多可以做成 3 个这样的水果礼盒。

2. $(16+8)\div3=8$（个）

口答：平均每个球筐放 8 个篮球。

3. $50-9\times4=14$（个）

口答：还要写 14 个毛笔字。

4. $29\div6=4$（条）……5（人）

$4+1=5$（条）

口答：至少要 5 条大船。

$29\div4=7$（条）……1（人）

$7+1=8$（条）

口答：至少要 8 条小船。

5. $38-24=14$（分）

口答：二（2）班下半场得了 14 分。

【点拨】上半场两个班的得分一样多，说明二（2）班上半场也得了 24 分。题目中二（1）班全场总分是 42 分是多余条件。

6.（1）△ 正正正 个　□ 正一 个

○ 正正 个　▭ 正正丁 个

（2）15　6　9　12

（3）①$3\times5=15$（个）　②3

关注微信公众号“教辅资料站”获取更多学习资料

好卷

小卷

- 周测培优卷（10套）
- 方法技能提升卷（4套）
- 重难点突破卷（4套）



二年级 数学

下（R版）

关注微信公众号“教辅资料站”获取更多学习资料



目录

周测培优卷

数据的收集整理能力检测卷 …… 1

表内除法(一)能力检测卷 …… 3

图形的运动(一)能力检测卷 …… 5

表内除法(二)计算能力检测卷 …… 7

表内除法(二)应用能力检测卷 …… 9

混合运算的计算能力检测卷 …… 11

混合运算的应用能力检测卷 …… 13

有余数的除法的能力检测卷 …… 15

万以内数的认识的能力检测卷 …… 17

克和千克的能力检测卷 …… 19

方法技能提升卷

计算的挑战 …… 21

初步的空间想象能力 …… 23

初步的数感 …… 25

有余数的除法应用题 …… 27

重难点突破卷

两步的应用题 …… 29

初步的逻辑推理能力 …… 31

熟练理解万以内的数 …… 33

应用题的综合练习 …… 35

参考答案及点拨 …… 37

关注微信公众号“教辅资料站”获取更多学习资料

周测培优卷 1
数据的收集整理能力检测卷

班级_____ 姓名_____ 得分_____ 时间：40分钟 满分：100分

一、我会填。（第 1 题 12 分，第 2 题 24 分，共 36 分）

1. 下面是二（1）班同学最喜欢看的动画片情况统计表。

动画片	《熊出没》	《米奇妙妙屋》	《猫和老鼠》	《魔豆传奇》
人数	28 人	8 人	11 人	9 人

（1）最喜欢看（　　）的人最多，最喜欢看（　　）的人最少。

（2）最喜欢看《猫和老鼠》和《魔豆传奇》的一共有（　　）人。

（3）二（1）班一共有（　　）人。

2. 下面是某地区一个月的天气情况。


正 正 正 一


丅


丌


正 丌

（1）这个月（　　）的天数最多，共有（　　）天。

（2）这个月多云有（　　）天，比晴天少（　　）天。

（3）这个月阴天有（　　）天，比多云多（　　）天。

（4）这个月共有（　　）天。如果知道这个月的气温比较高，人们感到很炎热，你认为这个月属于（　　）季。

二、走进生活，解决问题。（共 64 分）

1. 阳光小学倡导每位同学争做环保小卫士。小青、小聪、小雨、小方分别将他们家一周内使用塑料袋的情况统计如下：

小青家：×××××××　　小雨家：√√√√√√√√

小聪家：○○○　　小方家：△△△△

（1）把记录的结果填在下表中。（8 分）

家庭	小青家	小雨家	小聪家	小方家
个数				

（2）谁家这一周内使用塑料袋最多？谁家这一周内使用塑料袋最少？（6 分）

关注微信公众号“教辅资料站”获取更多学习资料

（3）塑料垃圾被称为“白色污染”。你对小雨家有什么好的建议吗？（6 分）

2. 二（1）班新学期选举正、副班长，从下面四名候选人中选出两名。下面是同学们投票的情况（每人投 1 票）。（18 分）

 小杰	 小丽	 小笑	 小伟
正正下	正一	正正正	丅

（1）小杰比小伟多得多少票？（6 分）

（2）二（1）班一共有多少人参加了投票？（6 分）

（3）根据投票结果，你认为谁当正班长？谁当副班长？（6 分）

3. 下面是二（2）班同学体育课上参加体育活动的情况。（26 分）

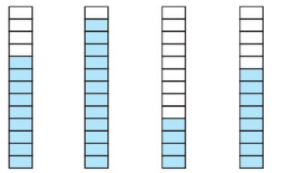

（1）如果一个▭表示 1 人，套圈的比踢毽子的少（　　）人。（4 分）

（2）如果一个▭表示 2 人，那么跳绳的有（　　）人，踢球的有（　　）人，套圈的有（　　）人，踢毽子的有（　　）人。（16 分）

（3）这个班有两名同学缺勤（一个▭表示 1 人），如果他俩都来上体育课，参加人数最多的活动会改变吗？（6 分）

关注微信公众号“教辅资料站”获取更多学习资料

周测培优卷 2
表内除法（一）能力检测卷

班级_____ 姓名_____ 得分_____ 时间：40分钟 满分：100分

一、把 12 个♡平均分成 3 份，下面哪一种分法是正确的？在（　　）里画“√”。（10 分）



（　　）



（　　）



（　　）

二、我会填。（每题 4 分，共 20 分）

1. 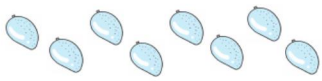
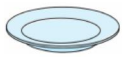


把 8 个芒果放在 2 个盘子里，每盘放的一样多，每盘放（　　）个。

2. 

有(　　)个南瓜，每 2 个一份，能分成（　　）份，算式是（　　）。

3. 写出 2 道被除数是 15 的除法算式：（　　）和（　　）。

4. 一个木偶 30 元，付 5 元一张的人民币，要付（　　）张。

5. 有 18 个三角形。



（1）每 3 个三角形摆一个风车，可以摆(　　)个风车。

（2）用这些三角形摆了 6 条同样的小鱼，每条小鱼用了（　　）个三角形。

三、我会辨。（对的在括号里画“√”，错的画“×”。每题 4 分，共 12 分）

1. 除数是 6，商是 3，那么被除数是 2。（　　）

2. 所有的口诀都能写出两道乘法算式和两道除法算式。（　　）

3. 在除法里商一定小于被除数。（　　）

四、计算挑战。（共 22 分）

1. 直接写出得数。（每题 1 分，共 8 分）

3 × 9 =	15 − 10 =	20 ÷ 5 =	32 + 8 =
18 ÷ 3 =	9 ÷ 3 =	10 ÷ 2 =	16 ÷ 4 =

关注微信公众号“教辅资料站”获取更多学习资料

2. 我会算。（每空 2 分，共 14 分）

被除数	12	30		24		10	12
除数	4		2		3	5	
商		5	4	4	5		6

五、走进生活，解决问题。（共 36 分）

1.





（1）6 个同学来搬，平均每人搬几个？（3 分）

□ ○ □ = □（个）

（2）如果明明和他的两个好朋友来搬，那么平均每人搬几个？（3 分）

□ ○ □ = □（个）

2. 剪“福”字，过幸福年。每张纸可以剪 2 个“福”。

（1）4 张纸可以剪多少个“福”？（3 分） □ ○ □ = □（　　）

（2）小明要剪 12 个“福”，需要用几张纸？（3 分） □ ○ □ = □（　　）

3. 有一些气球，比 20 个多，比 30 个少，这些气球有多少个？（6 分）



4. 瞧，新型山地作战坦克开过来了！

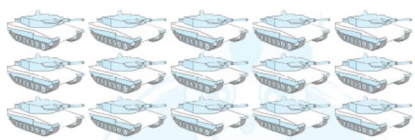

（1）每行排 5 辆，3 行排了多少辆？（6 分）

（2）这些新型山地作战坦克，每 5 辆排一行，能排几行？（6 分）

（3）如果开走了 5 辆，还剩多少辆新型山地作战坦克？（6 分）

关注微信公众号“教辅资料站”获取更多学习资料

周测培优卷 3
图形的运动（一）能力检测卷

班级_____ 姓名_____ 得分_____ 时间：40分钟 满分：100分

一、在轴对称图形下面的(　　)里画“○”。(每题3分，共18分)

1. 囍 (　　)

2.  (　　)

3.  (　　)

4.  (　　)

5.  (　　)

6.  (　　)

二、我会辨。(对的在括号里画“√”，错的画“×”。每题2分，共10分)

1. 熟透的苹果从树上掉下来，是平移现象。(　　)

2. 这些交通安全标志都是轴对称图形。(　　)

3. 平移后物体的形状和大小都不改变。(　　)

4. 旋转之后图形的形状发生了变化。(　　)

5. 可以由经过平移得到。(　　)

三、我会选。(把正确答案的序号填在括号里。每题2分，共10分)

1. 下列运动中，不属于旋转的是(　　)。


①


②


③

2. 下列现象属于平移的是(　　)。

①电梯的运动　　②拧螺丝　　③车轮运动

3. 下面三幅图中，图(　　)是通过左图平移得到的。


①


②


③

关注微信公众号“教辅资料站”获取更多学习资料

4. 下面图形沿一条线折叠后不能完全重合的是（　　）。

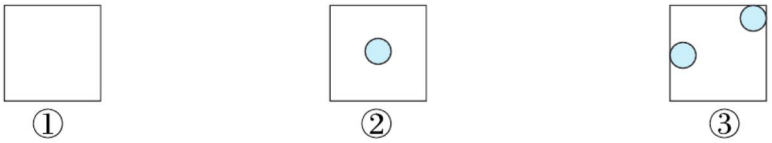

5. 能剪成  图形的是（　　）。

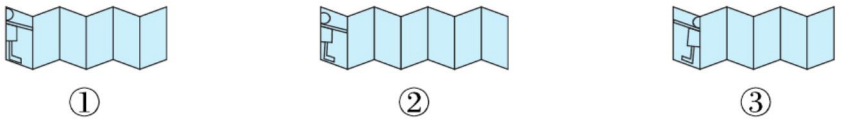

四、我会连。（共 32 分）

1. 下面哪些图形可以通过平移相互重合？（16 分）



2. 下面的图形分别是从哪张对折后的纸上剪下的？（16 分）



五、我会画。（每空 6 分，共 12 分）

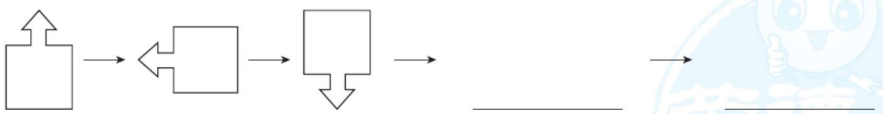

六、我会想。（每题 6 分，共 18 分）

写出分针从 12 旋转到下面各个位置所经过的时间。



（　　）分　　（　　）分　　（　　）分

关注微信公众号“教辅资料站”获取更多学习资料

周测培优卷 4
表内除法（二）计算能力检测卷

班级_____ 姓名_____ 得分_____ 时间：40分钟 满分：100分

一、我会填。（第 4 题 6 分，其余每题 4 分，共 26 分）

1. 54 ÷ 6 =（　　），用到的口诀是（　　）。
2. 56 ÷ 7 = 8，表示把（　　）平均分成（　　）份，每份是（　　）。
3. 除数是 9，被除数是 36，商是（　　）。
4. 在里填上合适的数。

5 × = 45　　32 ÷ 4 =　　 × 6 =

36 ÷ 6 =　　9 × = 81　　 ÷ = 6

5. 将下列算式填在合适的（　　）里。

35 ÷ 5　　42 ÷ 7　　3 × 4　　8 ÷ 8

（　　）<（　　）<（　　）<（　　）

6. 在里填上“ + ”“ − ”“ × ”或“ ÷ ”。

5  9 = 45　　64  8 = 56

9  8 = 72　　28  4 = 7 1

二、我会选。（把正确答案的序号填在括号里。每题 4 分，共 12 分）

1. 每次拿 4 个草莓，要拿（　　）次才能拿完。



① 6　　② 5　　③ 4

2. 把 28 根小棒平均分给 4 个小朋友，每个小朋友可以分几根？正确的列式是（　　）。

① 28 − 4　　② 28 ÷ 4　　③ 4 ÷ 28

3. 16、24、□、40、48，□里应填（　　）。

① 26　　② 28　　③ 32

关注微信公众号“教辅资料站”获取更多学习资料

三、计算挑战。（共 34 分）

1. 看谁算得又对又快。（每题 1 分，共 8 分）

$9 \times 8 =$	$18 \div 2 =$	$54 \div 9 =$	$79 + 15 =$
$76 - 15 =$	$40 \div 8 =$	$63 \div 7 =$	$81 \div 9 =$

2. 我会算。（每空 2 分，共 18 分）

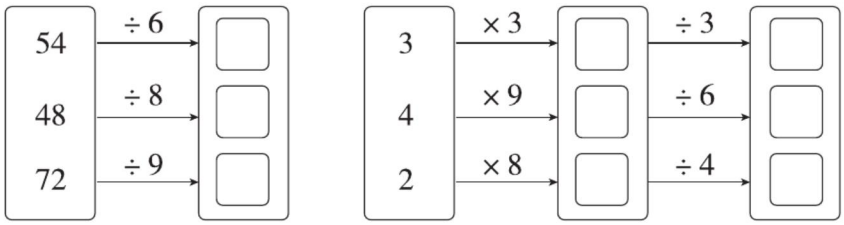

3. 小兔吃萝卜。（把得数相等的算式连一连，8 分）



四、走进生活，解决问题。（共 28 分）

1. 每人每次乘坐旋转木马要 5 分钟，每人 9 元。（14 分）



2. 明明和丽丽进行写字比赛，明明 3 分钟写了 27 个字，丽丽 5 分钟写了 40 个字，他们两个谁写得快？（14 分）

关注微信公众号“教辅资料站”获取更多学习资料

周测培优卷 5
表内除法（二）应用能力检测卷

班级_____ 姓名_____ 得分_____ 时间：40分钟 满分：100分

一、我会填。（每题6分，共30分）

1. 计算28÷4和28÷7用的口诀都是（　　）。

2. 从54里面连续减9，减（　　）次后得数是0；减（　　）次后得数是9。

3. 根据5×9=45，写出两道除法算式分别是（　　）和（　　）。

4.



如果4人合租一条船，需要租（　　）条船。



如果穿成（　　）串，平均每串穿6颗珠子。

5.



已经训练了3周，离比赛还有21天，还要训练（　　）周；一共训练（　　）周。

二、计算挑战。（共34分）

1. 看谁算得又对又快。（每题2分，共16分）

35÷7=　　21÷3=　　18÷9=　　24+6=

54+9=　　64÷8=　　28÷7=　　27−3=

2. 在（　　）里填上合适的数。（每题3分，共18分）

30÷(　　)=6　　28÷(　　)=7　　45÷(　　)=5

81÷(　　)=9　　6×(　　)=42　　8×(　　)=48

关注微信公众号“教辅资料站”获取更多学习资料

三、走进生活，解决问题。（共 36 分）

1. 有一本 36 页的故事书。（12 分）



2. （1）现在每盒多少元？每盒比原来便宜多少元？（6 分）

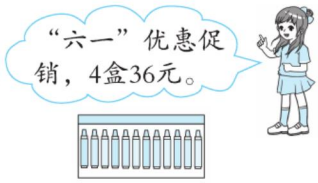

原价：12元/盒

（2）刘老师在“六一”儿童节这天买了 6 盒，共花了多少元？（6 分）

3. （1）二(3)班有 32 人，需要多少艘游艇？（4 分）

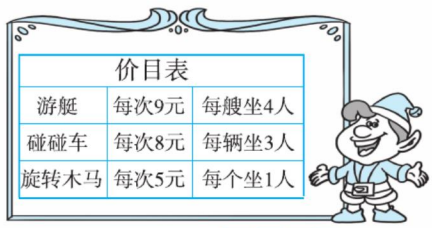

价目表		
游艇	每次9元	每艘坐4人
碰碰车	每次8元	每辆坐3人
旋转木马	每次5元	每个坐1人

（2）欢欢坐了 3 次碰碰车花了多少元？（4 分）

（3）你还能提出其他用乘法或除法解决的问题并解答吗？（4 分）

关注微信公众号“教辅资料站”获取更多学习资料

周测培优卷 6
混合运算的计算能力检测卷

班级_____ 姓名_____ 得分_____ 时间：40分钟 满分：100分

一、我会填。（第6题8分，其余每题3分，共23分）

1. 计算 $18-25\div5$ 时，要先算（　　）法，再算（　　）法，结果是（　　）。
2. 计算 $6\times4\div8$ 时，要先算（　　）法，再算（　　）法，结果是（　　）。
3. $8\times9-4$ 的结果是（　　），如果要改变运算顺序，添上括号后的算式是（　　）。
4. $18+63\div9$ 与 $(18+63)\div9$ 的运算结果（　　），运算顺序（　　）。（填“相同”或“不同”）
5. 6个9是（　　），再加上18，和是（　　）。
6. 在◯里填上“>”“<”或“=”。

$10-2\times4$ ◯ $(10-2)\times4$　　$32\div4\div2$ ◯ $32\div8$

$20+15\div5$ ◯ $(20+15)\div5$　　$58-24\div3$ ◯ 6×8

二、计算挑战。（共52分）

1. 计算下面各题。（每题3分，共18分）

$6\times7+24$　　$64\div8+57$　　$45\div(29-20)$

$(14-9)\times8$　　$6\times(2\times4)$　　$(28-8)\div5$

关注微信公众号“教辅资料站”获取更多学习资料

2. 下面的计算对吗？对的画“√”，错的画“×”，并改正过来。（每题5分，共10分）

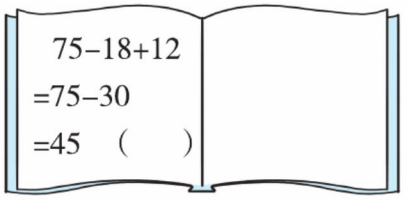

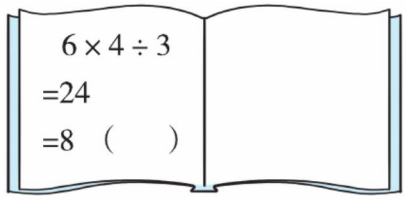

3. 我会仔细算。（每空2分，共24分）

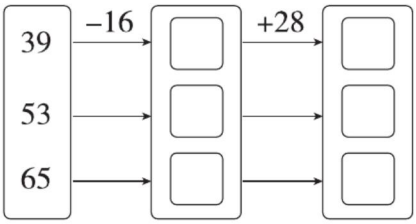

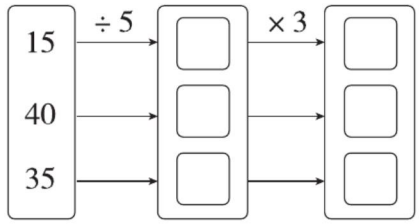

三、走进生活，解决问题。（共25分）

1. 快递员叔叔今天一共要送220件快递，上午送了120件，下午送了80件，还剩多少件没送？（用两种方法解答）（9分）

2. （8分）



3. 平均每间兔舍住几只兔子？（8分）



关注微信公众号“教辅资料站”获取更多学习资料

周测培优卷 7
混合运算的应用能力检测卷

班级_____ 姓名_____ 得分_____ 时间：40分钟 满分：100分

一、我会填。（第 7 题 6 分，其余每题 4 分，共 30 分）

1. 在没有括号的算式里，只有加、减法或只有乘、除法，都要从（　　）往（　　）按顺序计算。
2. 在没有括号的算式里，如果既有乘、除法又有加、减法，要先算（　　）法，后算（　　）法。
3. 30 与 15 的和是（　　），再除以 9，商是（　　）。
4. 两个乘数都是 7，积是（　　），再减去（　　），差是 11。
5. 平平在计算“8 + □ ÷8”时，弄错了运算顺序，先算加法后算除法了，结果得数是 7。正确的得数应该是（　　）。
6. 一本故事书有 40 页，看了 8 页后，剩下的 4 天看完，平均每天看几页？要先求（　　），再求（　　），列综合算式是（　　）。
7. 把下面每组算式合并成一个综合算式。

（1）$72 \div 8 = 9$　　$21 - 9 = 12$

_____

（2）$57 - 15 = 42$　　$42 \div 7 = 6$

_____

（3）$5 \times 7 = 35$　　$84 - 35 = 49$

_____

二、计算挑战。（每题 4 分，共 16 分）

$9 \times (72 \div 8)$　　$4 + 5 \times 7$　　$68 - 56 \div 8$　　$63 \div (9 - 2)$

三、看图列式计算。（每题 5 分，共 10 分）

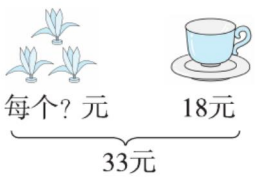

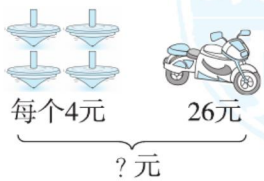

关注微信公众号“教辅资料站”获取更多学习资料

四、走进生活，解决问题。（共44分）

1. 阅览室里原来有故事书59本，科技书36本。现在又购进30本故事书，再购进多少本科技书就和故事书一样多？（11分）



2.



还剩多少颗枣？（11分）

3. （1）豆豆、果果和丫丫三人玩过山车要比玩碰碰车多花多少钱？（5分）

票价	
碰碰车	每人3元
旋转木马	每人6元
过山车	每人8元



（2）请你提一个用两步解决的问题并解答。（6分）

4. 王奶奶准备买7块蛋糕，她怎样买划算？（11分）

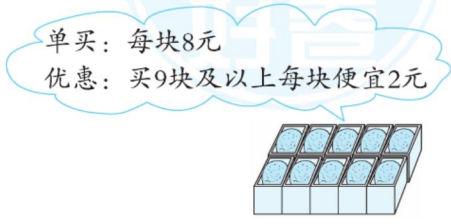

关注微信公众号“教辅资料站”获取更多学习资料

周测培优卷 8
有余数的除法的能力检测卷

班级_____ 姓名_____ 得分_____ 时间：40分钟 满分：100分

一、我会填。（第 1 题 6 分，其余每题 4 分，共 26 分）

1. （　　）里最大能填几？

（　　）×4＜26　　6×（　　）＜35　　22＞（　　）×6

48＞（　　）×7　　5×（　　）＜31　　69＞（　　）×7

2. 38 里面最多有（　　）个 5，48 里面最多有（　　）个 7。

3. □÷5＝7……△，△可能是（　　）。

4. 八月份有 31 天，一个星期是 7 天，八月份有（　　）个星期还多（　　）天。

5. △△▭☆☆△△▭☆☆△△▭……第 26 个图形是（　　）。

6. 程老师有 24 本故事书，平均分给 5 个小组，每组能分（　　）本，还剩（　　）本；程老师再买（　　）本，正好每组 6 本。

二、我会辨。（对的在括号里画“√”，错的画“×”。每题 2 分，共 6 分）

1. 41÷5＝8……1，可以用 5×8＋1＝41 检验计算结果是否正确。（　　）

2. 56 连续减 7 个 8，正好减完，也可以连续减 8 个 7，正好减完。（　　）

3. 计算有余数的除法时，商一定大于余数。（　　）

三、我会选。（把正确答案的序号填在括号里。每题 3 分，共 12 分）

1. 下列说法正确的是（　　）。

① 除数大于余数　　② 余数小于商　　③ 余数大于商

2. ○△△○△△○△△……按顺序依次排列，第 27 个图形是（　　）。

① ○　　② △　　③ △

3. 下列算式中，余数是 2 的是（　　）。

① 48÷5　　② 22÷4　　③ 36÷7

4. 下面计算不正确的是（　　）。

① 12÷3＝3……3　　② 36÷7＝5……1　　③ 47÷5＝9……2

关注微信公众号“教辅资料站”获取更多学习资料

四、列竖式计算。（每题 4 分，共 16 分）

53 ÷ 9 =　　68 ÷ 8 =　　37 ÷ 6 =　　60 ÷ 7 =

五、走进生活，解决问题。（共 40 分）

1. 如果每 9 个苹果装一袋，可以装几袋？还剩多少个？（10 分）



2. 至少要搭几顶帐篷？（10 分）

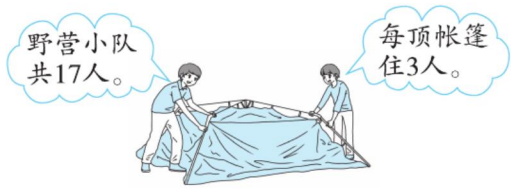

3. 丁丁和 30 个同学去游乐场游玩。



（1）50 元钱最多能买几张碰碰车票？用这些钱买小火车票呢？（10 分）

（2）如果同学们都坐小船，每条小船可坐 4 人，至少需要租几条小船？（10 分）

关注微信公众号“教辅资料站”获取更多学习资料

周测培优卷 9
万以内数的认识的能力检测卷

班级_____ 姓名_____ 得分_____ 时间：40分钟 满分：100分

一、我会填。（第 6 题 6 分，其余每空 2 分，共 26 分）

1. 在 6060 中，右起第二位上的“6”表示（　　），第四位上的“6”表示（　　）。
2. 用 4、0、8 可以组成（　　）个不同的三位数，最大的是（　　），最小的是（　　）。
3. 北岳恒山主峰海拔二千零一十六米，横线上的数写作（　　），约是（　　）。
4. 68 个百是（　　），5400 里面有（　　）个一。
5. 7 个千、5 个十和 8 个一组成的数是（　　）。
6. 按规律填数。

（1）3000、4000、5000、（　　）、（　　）、8000。

（2）2080、2090、（　　）、2110、（　　）。

（3）450、（　　）、550、（　　）、650。

二、我会选。（把正确答案的序号填在括号里。每题 3 分，共 15 分）

1. 9000 里面有（　　）个 100。

① 9　　② 90　　③ 900

2. 最高位是百位的数是（　　）。

① 三位数　　② 四位数　　③ 五位数

3. 算盘上一个上珠表示（　　）。

① 1　　② 10　　③ 5

4. 写数和读数时，都要从（　　）位起。

① 万　　② 个　　③ 高

5. 下列数中，与 5000 最接近的数是（　　）。

① 4998　　② 4001　　③ 4999

关注微信公众号“教辅资料站”获取更多学习资料

三、我会读与写。（每空 1 分，共 8 分）

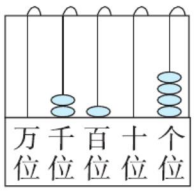

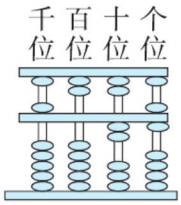

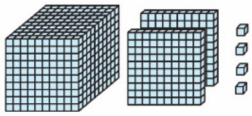



100张

写作：_____ 写作：_____ 写作：_____ 写作：_____

读作：_____ 读作：_____ 读作：_____ 读作：_____

四、我会算。（每题 2 分，共 16 分）

1700 − 700 = 4200 − 2000 = 1800 − 900 = 560 − 50 =

170 − 80 = 400 + 800 = 1600 + 2000 = 1700 + 300 =

五、我会比。（每空 1 分，共 5 分）

4607　　4706　　7640　　674　　4670

（　　）>（　　）>（　　）>（　　）>（　　）

六、走进生活，解决问题。（共 30 分）

1.



请将《连环画》和《天天健康》填在下表中。（10 分）

《简笔画》				
208 页	210 页	120 页	190 页	685 页

2. 在“六一”儿童节表彰大会上，实验小学准备 1300 支铅笔奖给一、二年级的同学们。二年级需要六百多支，一年级需要五百多支，够吗？（10 分）

3. 如图，你能提出两个数学问题并解答吗？（10 分）

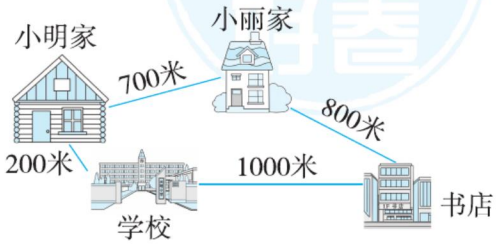

关注微信公众号“教辅资料站”获取更多学习资料

周测培优卷 10
克和千克的能力检测卷

班级_____ 姓名_____ 得分_____ 时间：40分钟 满分：100分

一、我会填。（第1题10分，其余每空2分，共32分）

1. 在（　　）里填上合适的质量单位。







12（　　）　50（　　）　3（　　）　300（　　）　4（　　）

2. 称得一个盒子的质量如图所示，在盒子里放入800克蛋糕，一共重（　　）克。

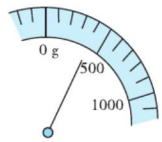

3. 一瓶墨水重100克，（　　）瓶墨水重1千克。
4. 一个鸡蛋约重50克，（　　）个鸡蛋约重500克，（　　）个鸡蛋约重1千克。
5. 在◯里填上“>”“<”或“=”。

8千克◯8000克　　5000克◯6千克　　1千克◯950克

6. 在（　　）里填上合适的数。

2000克=（　　）千克　　7千克=（　　）克

9000克+1000克=（　　）千克　　5千克-4000克=（　　）克

二、我会辨。（对的在括号里画“√”，错的画“×”。每题2分，共6分）

1. 10千克铁比10千克棉花重。（　　）
2. 一只小兔的体重是5000千克。（　　）
3. 一袋盐比一克轻。（　　）

三、我会按要求做题。（共36分）

1. 我会连。（12分）


一把尺子


一粒花生


一粒大米

比1克轻　　约为1克重　　比1克重


一片树叶


一袋饼干



一枚2分硬币

关注微信公众号“教辅资料站”获取更多学习资料

2. 我会圈。（计量下面的物品有多重，用哪个单位合适？12 分）



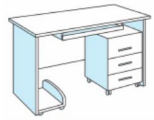


（ 克　千克 ）　（ 克　千克 ）　（ 克　千克 ）　（ 克　千克 ）

3. 我会分析。（连一连，12 分）






30千克　　4千克　　50克　　340克

四、走进生活，解决问题。（共 26 分）

1. 大象医生正在给森林里的动物们做体检，你能帮它把记录补充完整吗？（16 分）

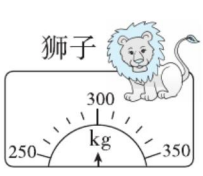

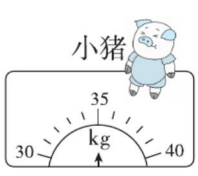

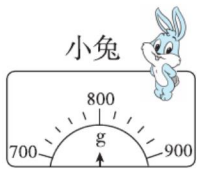

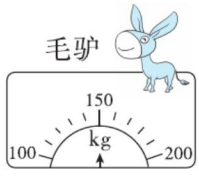

（1）（　　）最重，重（　　）；（　　）最轻，重（　　）。（8 分）



（2）按从重到轻的顺序给小动物们排队。（8 分）

（　　）（　　）（　　）（　　）

2. 下面是小明去超市调查的当天部分蔬菜的价格。

（1）买 2 千克黄瓜和 1 千克白菜，应付多少钱？（5 分）

名称	价格
	3元/500克
	4元/500克
	2元/500克

（2）你还能提出什么数学问题并解答？（5 分）

关注微信公众号“教辅资料站”获取更多学习资料

班级_____ 姓名_____ 得分_____ 时间：40分钟 满分：100分

一、我会填。（每题4分，共20分）

1. 一万里面有（　　）个千，有（　　）个百。
2. 写出两道除数是7的除法算式：（　　）、（　　）。
3. 一袋糖重500（　　），两袋糖重1（　　）。
4. 在（　　）里填上合适的数。

（　　）÷8＝5　　81÷（　　）＝9

4×（　　）＝28　　27÷（　　）＝3

5. 在○里填上“＞”“＜”或“＝”。

150＋150 ○ 300　　4千克 ○ 4400克

48÷6 ○ 48÷8　　35千克 ○ 350克

二、我会选。（把正确答案的序号填在括号里。每题4分，共12分）

1. 下面各数中，只读一个零的数是（　　）。

①3700　　②3007　　③3730

2. 估一估，得数大于500的算式是（　　）。

①425＋98　　②985－689　　③309＋129

3. 被除数是9的算式是（　　）。

①36÷9　　②9÷3　　③18÷2

三、计算挑战。（共44分）

1. 看谁算得又对又快。（每题1分，共11分）

36÷6＝　　400＋700＝　　1500－600＝　　63÷9＝

7×8＝　　72÷8＝　　2500－500＝　　9÷1＝

1千克－700克＝　　7克＋84克＝　　400克＋600克＝

关注微信公众号“教辅资料站”获取更多学习资料

2. 列竖式计算。（每题 3 分，共 9 分）

58 ÷ 6 =　　76 ÷ 9 =　　45 ÷ 6 =

3. 计算下面各题。（每题 4 分，共 24 分）

27 ÷ 9 × 7　　67 − 35 + 24　　(46 + 18) ÷ 8

32 ÷ (65 − 57)　　72 ÷ 9 × 4　　6 × 7 − 42

四、走进生活，解决问题。（共 24 分）

1. 王老师带领同学们去动物园玩，买门票一共花了 38 元，有多少名同学去了动物园？（12 分）



2. 海豚队的队员每 9 只乘一辆中巴车，正好乘了 4 辆中巴车，到接待处后，平均分在 6 个水池里。每个水池里分几只？（12 分）

关注微信公众号“教辅资料站”获取更多学习资料

班级_____ 姓名_____ 得分_____ 时间：40分钟 满分：100分

一、我会填。（每空2分，共42分）

1. 下面现象是平移的在括号里画“△”，是旋转的画“○”。



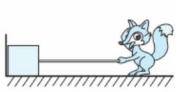


（　　）（　　）（　　）（　　）

2. 下面的图形是轴对称图形的在括号里画“√”，不是的画“×”。







（　　）（　　）（　　）（　　）（　　）







（　　）（　　）（　　）（　　）（　　）

3. 写出分针从12旋转到下面各个位置所经过的时间。





（　　）（　　）（　　）

4. 把镜子放在虚线上，看看整个图形是什么？填在括号里。


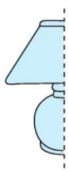
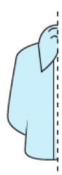


（　　）（　　）（　　）（　　）

关注微信公众号“教辅资料站”获取更多学习资料

二、下面各图中的对称轴画得对吗？对的画“√”，错的画“×”。(10分)

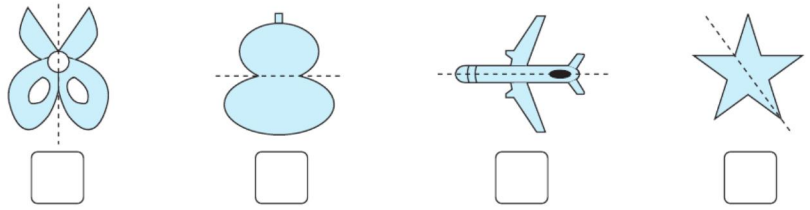

三、圈一圈。(共24分)

1. 哪条鱼是由、○、通过平移拼成的？(12分)



2. 将一张纸对折后剪去两个圆，展开后是哪一个？(12分)

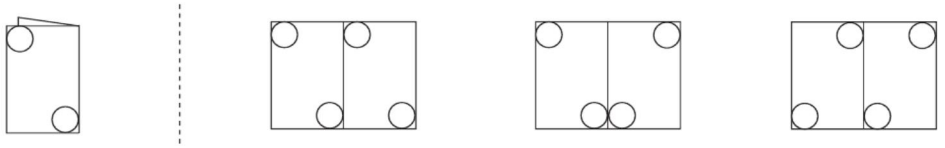

四、要铺满最下面一层，和分别该怎样平移？(每空3分，共24分)

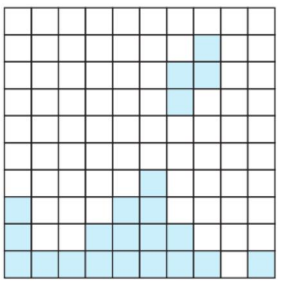

先向(　　)平移(　　)个格，
再向(　　)平移(　　)个格。

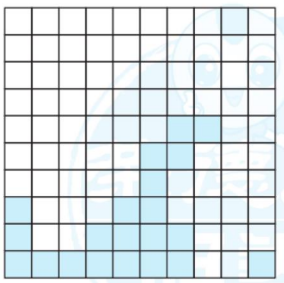

先向(　　)平移(　　)个格，
再向(　　)平移(　　)个格。

关注微信公众号“教辅资料站”获取更多学习资料

班级_____ 姓名_____ 得分_____ 时间：40分钟 满分：100分

一、我会填。（第2题5分，其余每题4分，共21分）

1. 用4张数字卡片 5 7 0 9 组成的四位数中，最接近9000的数是（　　），读作（　　）；大于5000并且小于5700的数是（　　）和（　　）。

2. 在□里最大能填几？

6547 > 6□45　　45 ÷ 5 > □　　6 < 24 ÷ □

1千克 − 300克 > □00克　　☆ ÷ 5 = 3……□

3. 一个三位数，它的各位数字之和是4，这样的三位数中，最大的是（　　），最小的是（　　）。

4. 操场上有19个同学在跳舞，如果想把他们平均分成3组，至少应去掉（　　）个同学。

5. 用 2 3 6 8 12 24 六张卡片，摆出两个除法算式。（每张卡片只用一次）

_____　　_____

二、我会选。（13分）

从7，4，9，28和16中选出3个数写出两个乘法算式和两个除法算式，并写出所用的口诀。

□○□=□　　□○□=□

□○□=□　　□○□=□

口诀：_____

关注微信公众号“教辅资料站”获取更多学习资料

三、我会比。（每题 2 分，共 18 分）

在◯里填上“＞”“＜”或“＝”。

3200 克◯3 千克　　6200 克◯6199 克　　7000 克◯7 千克

$42 \div 6$ ◯ 6　　$21 \div 3$ ◯ $1 \times 6 + 2$　　9×3 ◯ $9 \div 3$

$36 \div 6$ ◯ $5 \times 3 - 8$　　54 ◯ $5 \times 9 + 5$　　$12 \div 2$ ◯ $2 \times 4 - 3$

四、我会填运算符号。（每题 3 分，共 24 分）

小鸟飞向哪里？



3 ◯ 6 = 18　　54 ◯ 6 = 9　　25 ◯ 5 = 5

9 ◯ 9 = 18　　9 ◯ 3 = 6　　5 ◯ 9 = 45

140 ◯ 70 = 70　　3000 ◯ 2000 = 5000

五、我会想。（每题 4 分，共 24 分）

在□里填上合适的数字。

$\square\overline{)64}$，$64 - 64 = 0$

$6\overline{)\square\square}$，$\square\square - 42 = 1$

$8\overline{)5\square}$，$5\square - 56 = 3$

$5\overline{)\square\square}$，$\square\square - 35 = \square$

$\square\overline{)8\square}$，$8\square - \square\square = 3$

$\square\overline{)3\square}$，$3\square - \square 2 = 3$

关注微信公众号“教辅资料站”获取更多学习资料

方法技能提升卷4 有余数的除法应用题

班级_____ 姓名_____ 得分_____ 时间：40分钟 满分：100分

一、我会填。（每题6分，共30分）

1. □÷△=☆……6，除数比10小，△最大是（　　），最小是（　　）。

2. 30个，每盘最多放7个，至少需要（　　）个盘子。

3. ○△☆□○△☆□○……第17个图案是（　　）。

4. 在（　　）里填上合适的数。

（　　）÷7=8……4　　（　　）÷5=5……4

5. 看图填一填。

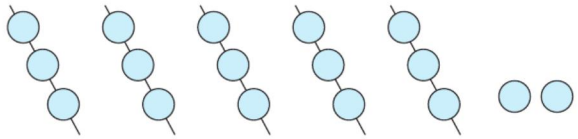

（1）17÷（　　）=（　　）（串）……（　　）（个）

（2）17÷（　　）=（　　）（个）……（　　）（个）

二、走进生活，解决问题。（共70分）

1. 张叔叔要生产45个零件，如果每天最多生产8个，至少需要多少天才能完成？（14分）

2. （14分）



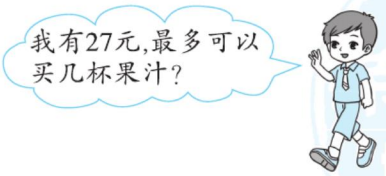

关注微信公众号“教辅资料站”获取更多学习资料

3. 小红想穿一串项链，她用了两种颜色的珠子按下面的规律穿的，共用了26颗。黄色和蓝色珠子各用了几颗？（14分）



4. 一共有23人去公园划船。

（1）如果都租小船，至少要几条小船？（4分）



（2）如果都租大船，至少要几条大船？（4分）

（3）还可以怎样安排租船呢？（6分）

5.



这些糖果最多可以组装成多少个这样的礼盒？（14分）

关注微信公众号“教辅资料站”获取更多学习资料

重难点突破卷1 两步的应用题

班级_____ 姓名_____ 得分_____ 时间：40分钟 满分：100分

一、我会填。（每题6分，共30分）

1. 
988元


105元

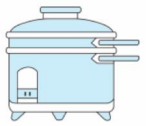
210元

估一估，买这三种商品大约共需（　　）元。

2. 有47吨煤，用载重5吨的货车来运，运（　　）次后，还剩2吨。

3. 有1600元，买豆浆机用去300元，买冰箱用去900元，还剩(　　)元。

4. 除数是9，商比除数小3，则被除数是（　　）。

5. 

（1）红队：赢3场输2场，得（　　）分。

（2）黄队：赢4场输1场，得（　　）分。

二、走进生活，解决问题。（共70分）

1. 女同学比男同学多花多少钱？（14分）

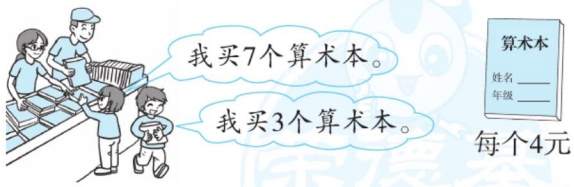

2. 阳光小学原来有45本儿童画报，又买来18本。如果每个班分9本，可以分给几个班？（14分）

关注微信公众号“教辅资料站”获取更多学习资料

3. 小芳跳了多少下？（14 分）



4. 二年级召开家长会，同学们准备了34把单人椅和6把双人椅。邀请了50位家长，座位够吗？（14 分）

5. （14 分）


1双手套24元


9条毛巾共54元

（1）1 双手套比 1 条毛巾贵多少元？（7 分）

（2）买 1 双手套的钱可以买几条毛巾？（7 分）

荣德基好卷

关注微信公众号“教辅资料站”获取更多学习资料

重难点突破卷2 初步的逻辑推理能力

班级_____ 姓名_____ 得分_____ 时间：40分钟 满分：100分

一、我会填。（每题6分，共30分）

1. 小刚、小强和小丁在100米赛跑中取得了前三名的成绩。已知小刚不是第一名，小强不是前两名。第一名是（　　）。

2. 甲、乙、丙三个小朋友分别戴着1顶红帽子、1顶蓝帽子和1顶黄帽子，甲看见1人戴红帽子，1人戴蓝帽子，那么甲戴（　　）帽子。

3. 胖胖、笨笨和圆圆是三只可爱的小猪。它们比赛赛跑。笨笨说："我跑得不是最快的，但比胖胖快。"请你猜一猜，（　　）跑得最快，（　　）跑得最慢。

4. 用3、0、6这三张数字卡片，能摆成（　　）个不同的三位数，分别是（　　）。

5. 猜年龄。



年龄最小的是（　　），年龄最大的是（　　）。

二、在方框里填上1～9使算式成立，所填数字不能重复。（12分）

$$\begin{array}{r} 2\ 7 \\ +\ 5\ \square \\ \hline 8\ 1 \end{array} \qquad \begin{array}{r} 4\ \square \\ +\ \square\ \square \\ \hline 6\ 2 \end{array}$$

$$\begin{array}{r} \square\ \square \\ -\ \square\ 8 \\ \hline 5\ 4 \end{array} \qquad \begin{array}{r} \square\ 4 \\ -\ 1\ \square \\ \hline 4\ 6 \end{array}$$

关注微信公众号"教辅资料站"获取更多学习资料

三、走进生活，我会推理。（共 58 分）

1. 在下面的方格中，每行、每列都有 1 ~ 4 这四个数，并且每个数在每行、每列都只出现一次。B、C 各是几？（15 分）

		1	
	3	A	1
	C	4	2
		B	

2. 李叔叔把红、白、蓝各一个气球送给 3 位小朋友。根据下面的对话，你能猜出他们分到的各是什么颜色的气球吗？（15 分）

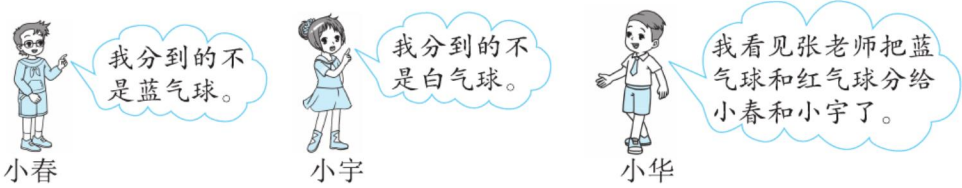

3. 小芳、小丽、小明、小强四人同住在一幢四层的楼房里。已知小芳住的比小丽住的楼层高，比小明住的楼层低，小强住顶层，你知道他们分别住第几层吗？请填在下边房子里。（12 分）



4. 小熊家的一罐蜂蜜被偷了，有嫌疑的是小毛、小球、小飞、小米 4 只小老鼠，现在调查出是体重最重的那只小老鼠偷的，偷蜂蜜的是哪只小老鼠？（16 分）



关注微信公众号“教辅资料站”获取更多学习资料

重难点突破卷3 熟练理解万以内的数

班级_____ 姓名_____ 得分_____ 时间：40分钟 满分：100分

一、我会填。（每题6分，共30分）

1. 15个百是（　　），1200里面有（　　）个十。

2. 写出与下面各数相邻的两个数。

□ 8240 □　　□ 6000 □　　□ 919 □

3. 有一个四位数，从右边数第二位是5，第四位是9，其余各位都是0，这个数是（　　）。

4. 从4、7、0、5、1中任选4个数组成一个四位数，最大的是（　　），最小的是（　　）。

5. 方框里最小填几？

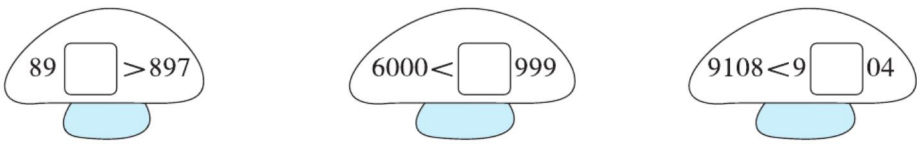

二、我会比。（每空2分，共12分）

把下面的数按从大到小的顺序排列。



（　　）>（　　）>（　　）>（　　）>（　　）>（　　）

三、我会想。（每题3分，共18分）

在□里填上合适的数。

600 + □ = 1400　　4500 − □ = 4300　　□ − 70 = 80

700 + □ = 4700　　1000 − □ = 300　　□ + 500 = 6600

关注微信公众号“教辅资料站”获取更多学习资料

四、走进生活，解决问题。（共 40 分）

1. 某大型超市定做了 1100 个彩蛋。（12 分）



2.


电饭煲


电视机

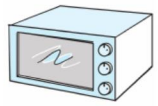
微波炉800元

（1）电饭煲比微波炉便宜 500 元，一个电饭煲多少钱？（7 分）

（2）电视机比微波炉贵 900 元，一台电视机多少钱？（7 分）

3.


400元


4000元


5300元

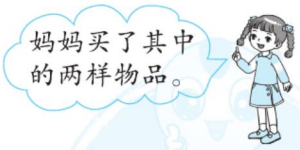

（1）最多花去多少钱？（7 分）

（2）最少花去多少钱？（7 分）

关注微信公众号“教辅资料站”获取更多学习资料

班级_____ 姓名_____ 得分_____ 时间：40分钟 满分：100分

一、我会看图列式计算。（每题5分，共20分）

1.

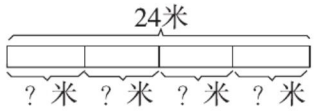

2.

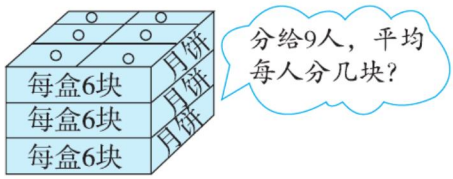

3.



已经修好了51米　剩下的3天修完，平均每天修多少米？

4.

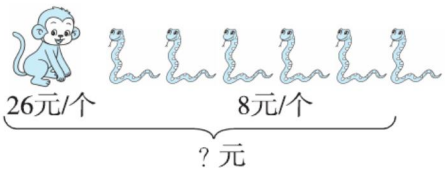

二、走进生活，解决问题。（共80分）

1. 体育老师要从三名“跳远健儿”中选出一名参加全市的少儿运动会比赛。



	李佳	余珍	刘笑
第1次	127厘米	124厘米	126厘米
第2次	120厘米	136厘米	119厘米
第3次	129厘米	130厘米	137厘米

（1）请排出他们的名次。（10分）

（2）老师会选谁参加全市的少儿运动会？（10分）

关注微信公众号“教辅资料站”获取更多学习资料

2.



A种（共24元）



B种（共25元）



C种（共9元）

（1）上面茶杯的质量是相同的，买哪一种茶杯最划算？（10 分）

（2）妈妈用 22 元买 C 种茶杯，最多可以买几个？（10 分）

3. 买家具。



2898元

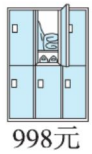

998元

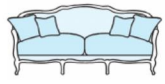

3965元

（1）买一张床和一个沙发一共大约多少钱？（10 分）

（2）爸爸带 5000 元想买一个衣柜和一个沙发，够吗？（10 分）

4. 甲、乙、丙、丁、戊 5 名同学依次报数，23 是谁报的？36 是谁报的？（20 分）

关注微信公众号“教辅资料站”获取更多学习资料

周测培优卷 1

数据的收集整理能力检测卷

一、1.（1）《熊出没》　《米奇妙妙屋》

（2）20　（3）56

2.（1）晴天　16

（2）2　14

（3）4　2

（4）31　夏

二、1.（1）7　8　3　4

（2）小雨家这一周内使用塑料袋最多，小聪家这一周内使用塑料袋最少。

（3）用布袋代替塑料袋，或者重复使用塑料袋。

【点拨】第（3）题答案不唯一。

2.（1）13 − 4 = 9（票）

（2）13 + 6 + 15 + 4 = 38（人）

（3）小笑当正班长，小杰当副班长。

3.（1）4

（2）18　24　8　16

（3）不会改变。

周测培优卷 2

表内除法（一）能力检测卷

一、



（ √ ）

二、1. 4

2. 10　5　10 ÷ 2 = 5（份）

3. 15 ÷ 3 = 5　15 ÷ 5 = 3

【点拨】答案不唯一。

4. 6　【点拨】要求付多少张，就是求 30 里面有几个 5，列式是 30 ÷ 5 = 6（张）。

5.（1）6　（2）3

三、1. ×　2. ×　3. ×

四、1. 27　5　4　40　6　3　5　4

2.

被除数	12	30	8	24	15	10	12
除数	4	6	2	6	3	5	2
商	3	5	4	4	5	2	6

五、1.（1）18 ÷ 6 = 3

（2）18 ÷ 3 = 6

【点拨】明明和他的两个好朋友，一共是 3 人。

2.（1）4 × 2 = 8（个）

（2）12 ÷ 2 = 6（张）

3. 4 × 6 = 24（个）

口答：这些气球有 24 个。

4.（1）5 × 3 = 15（辆）

口答：3 行排了 15 辆。

（2）15 ÷ 5 = 3（行）

口答：能排 3 行。

（3）15 − 5 = 10（辆）

口答：还剩 10 辆新型山地作战坦克。

关注微信公众号“教辅资料站”获取更多学习资料

周测培优卷3

图形的运动(一)能力检测卷

一、1. (　) 2. (○) 3. (○)

4. (○) 5. (○) 6. (　)

二、1. √ 2. × 3. √ 4. × 5. ×

三、1. ② 2. ① 3. ② 4. ③ 5. ③

四、1. 熊　小兔（连一连略）

2. 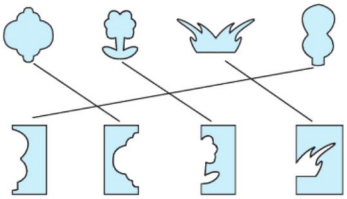

五、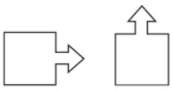

【点拨】旋转的方向是上、左、下、右、上、左、下、右……。

六、30　10　45

周测培优卷4

表内除法(二)计算能力检测卷

一、1. 9　六九五十四

2. 56　7　8

3. 4

4. 9　8　2　12　6　9　24　4（第3、4、7、8个苹果里填的数不唯一）

5. 8÷8　42÷7　35÷5　3×4

6. ×　−　×　÷　×（最后一空答案不唯一）

二、1. ①　2. ②　3. ③

三、1. 72　9　6　94　61　5　9　9

2. 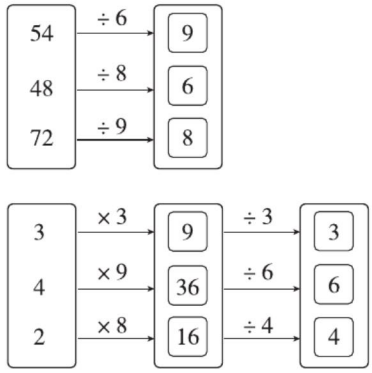

3. 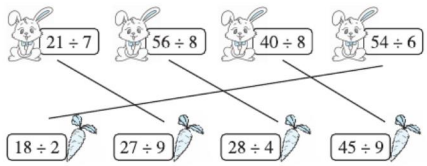

四、1. 5×9=45（元）　40÷5=8（次）

口答：5人乘坐一次旋转木马需要45元，40分钟旋转木马可运行8次。

【点拨】会选择有关联的两个条件解决问题。

2. 27÷3=9（个）

40÷5=8（个）

9>8

口答：明明写得快。

周测培优卷5

表内除法(二)应用能力检测卷

一、1. 四七二十八

2. 6　5

3. 45÷5=9　45÷9=5

4. 7　9

关注微信公众号“教辅资料站”获取更多学习资料

5. 3　6　【点拨】求还要训练几周，列式是21÷7=3（周）；求一共训练几周，列式是3+3=6（周）。

二、1. 5　7　2　30　63　8　4　24

2. 5　4　9　9　7　6

三、1. 36÷9=4（天）

36÷6=6（页）

口答：丽丽4天看完。明明平均每天看6页。

2.（1）36÷4=9（元）

12−9=3（元）

口答：现在每盒9元，每盒比原来便宜3元。

（2）9×6=54（元）

口答：共花了54元。

3.（1）32÷4=8（艘）

口答：需要8艘游艇。

（2）3×8=24（元）

口答：欢欢坐了3次碰碰车花了24元。

【点拨】用3次乘每次8元求出一共花的钱数。

（3）欢欢坐了3次旋转木马花了多少元？

3×5=15（元）

口答：欢欢坐了3次旋转木马花了15元。

【点拨】第（3）问答案不唯一。

周测培优卷6

混合运算的计算能力检测卷

一、1. 除　减　13

2. 乘　除　3

3. 68　8×(9−4)

【点拨】如果要改变运算顺序，说明要先算减法。

4. 不同　不同

5. 54　72

6. <　=　>　>

二、1.

6×7+24	64÷8+57
=42+24	=8+57
=66	=65
45÷(29−20)	(14−9)×8
=45÷9	=5×8
=5	=40
6×(2×4)	(28−8)÷5
=6×8	=20÷5
=48	=4

2. ×　75−18+12
=57+12
=69

×　6×4÷3
=24÷3
=8

关注微信公众号“教辅资料站”获取更多学习资料

3.

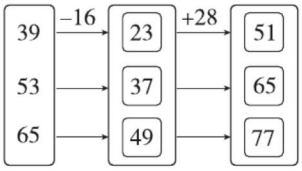

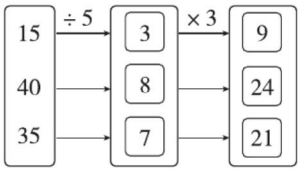

三、1. 方法一：　220 − 120 − 80

= 100 − 80

= 20（件）

方法二：　220 −（120 + 80）

= 220 − 200

= 20（件）

口答：还剩 20 件没送。

2. 7 × 8 − 27 = 29（盆）

口答：还剩 29 盆没浇。

3.（20 + 12）÷ 4 = 8（只）

口答：平均每间兔舍住 8 只兔子。

【点拨】先求出白兔和灰兔一共有多少只。

周测培优卷 7

混合运算的应用能力检测卷

一、1. 左　右

2. 乘除　加减

3. 45　5

4. 49　38

5. 14　【点拨】先求出□里的数，列式是 7 × 8 − 8 = 48，再求出正确的得数，列式是 8 + 48 ÷ 8 = 14。

6. 还剩下多少页没有看

平均每天看几页

（40 − 8）÷ 4 = 8（页）

7.（1）21 − 72 ÷ 8 = 12

（2）（57 − 15）÷ 7 = 6

（3）84 − 5 × 7 = 49

二、　9 ×（72 ÷ 8）　　4 + 5 × 7

= 9 × 9　　= 4 + 35

= 81　　= 39

68 − 56 ÷ 8　　63 ÷（9 − 2）

= 68 − 7　　= 63 ÷ 7

= 61　　= 9

三、（33 − 18）÷ 3 = 5（元）

4 × 4 + 26 = 42（元）

四、1. 59 + 30 − 36 = 53（本）

口答：再购进 53 本科技书就和故事书一样多。

2. 50 − 22 − 18 = 10（颗）

口答：还剩 10 颗枣。

3.（1）3 ×（8 − 3）= 15（元）

口答：豆豆、果果和丫丫三人玩过山车要比玩碰碰车多花 15 元钱。

（2）6 个小朋友玩一次碰碰车花的钱可以让几个小朋友玩一次旋转木马？

6 × 3 = 18（元）　18 ÷ 6 = 3（个）

口答：6 个小朋友玩一次碰碰车花的钱可以让 3 个小朋友玩一次旋转木马。

【点拨】第（2）问答案不唯一。

4. 7 × 8 = 56（元）

9 ×（8 − 2）= 54（元）

关注微信公众号“教辅资料站”获取更多学习资料

54 < 56

口答：她买 9 块蛋糕划算。

【点拨】买 9 块蛋糕一共花 54 元，比 56 元少，而且还可以多买 2 块蛋糕。

周测培优卷 8

有余数的除法的能力检测卷

一、1. 6　5　3　6　6　9

2. 7　6

3. 1、2、3、4

4. 4　3　5. △

6. 4　4　6

【点拨】求再买的本数，列式是 5 × 6 − 24 = 6（本）。

二、1. √　2. √　3. ×

三、1. ①　2. ③　3. ②　4. ①

四、53 ÷ 9 = 5……8　　68 ÷ 8 = 8……4

```
   5              8
9 ) 5 3        8 ) 6 8
  4 5            6 4
  ---            ---
    8              4
```

37 ÷ 6 = 6……1　　60 ÷ 7 = 8……4

```
   6              8
6 ) 3 7        7 ) 6 0
  3 6            5 6
  ---            ---
    1              4
```

五、1. 3 × 8 = 24（个）

24 ÷ 9 = 2（袋）……6（个）

口答：可以装 2 袋，还剩 6 个。

2. 17 ÷ 3 = 5（顶）……2（人）

5 + 1 = 6（顶）

口答：至少要搭 6 顶帐篷。

3. （1）50 ÷ 8 = 6（张）……2（元）

50 ÷ 6 = 8（张）……2（元）

口答：50 元钱最多能买 6 张碰碰车票，用这些钱最多能买 8 张小火车票。

【点拨】剩余的钱不够再买一张票。

（2）30 + 1 = 31（人）

31 ÷ 4 = 7（条）……3（人）

7 + 1 = 8（条）

口答：至少需要租 8 条小船。

周测培优卷 9

万以内数的认识的能力检测卷

一、1. 6 个十　6 个千

2. 4　840　408

3. 2016　2000

4. 6800　5400

5. 7058

6. （1）6000　7000

（2）2100　2120

（3）500　600

二、1. ②　2. ①　3. ③

4. ③　5. ③

三、2104　二千一百零四

5026　五千零二十六

1204　一千二百零四

10000　一万

四、1000　2200　900　510　90　1200

3600　2000

五、7640　4706　4670　4607　674

关注微信公众号“教辅资料站”获取更多学习资料

六、1.

《简笔画》			《连环画》	《天天健康》
208 页	210 页	120 页	190 页	685 页

2. 六百多支与五百多支合起来最多是一千二百多支。

1300 > 一千二百多

口答：够。

3. （1）小明从家出发经过小丽家到书店要走多少米？

700 + 800 = 1500（米）

口答：小明从家出发经过小丽家到书店要走 1500 米。

（2）小丽放学回家走哪条路近？要走多少米？

200 + 700 = 900（米）

1000 + 800 = 1800（米）

900 米 < 1800 米

口答：小丽放学回家经过小明家这条路近，要走 900 米。

【点拨】此题答案不唯一。

周测培优卷 10

克和千克的能力检测卷

一、1. 千克　克　千克　克　千克

2. 1200　【点拨】秤上显示的是 400 克，列式是 400 + 800 = 1200（克）。

3. 10

4. 10　20

5. =　<　>

6. 2　7000　10　1000

二、1. ×　2. ×　3. ×

三、1.

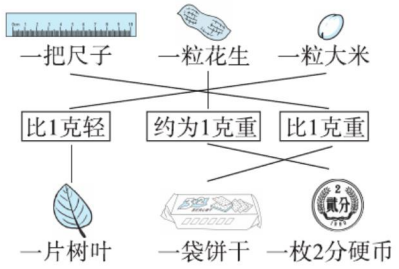

2. 克　千克　千克　克

3.

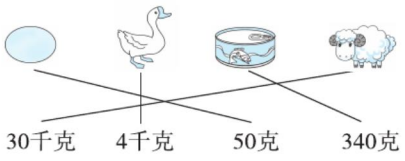

四、1.（1）狮子　300 kg　小兔　800 g

（2）狮子　毛驴　小猪　小兔

2.（1）2 千克 = 500 克 + 500 克 + 500 克 + 500 克

1 千克 = 500 克 + 500 克

4 × 4 + 2 × 2 = 20（元）

口答：应付 20 元。

【点拨】先分析 2 千克和 1 千克可以看成几个 500 克相加。

（2）买 1500 克白菜，应付多少钱？

1500 克 = 500 克 + 500 克 + 500 克

2 × 3 = 6（元）

口答：应付 6 元。

【点拨】第（2）问答案不唯一。

期末复习冲刺卷

方法技能提升卷 1　计算的挑战

一、1. 10　100

2. 14 ÷ 7 = 2　7 ÷ 7 = 1（答案不唯一）

3. 克　千克

关注微信公众号“教辅资料站”获取更多学习资料

4. 40　9　7　9

5. =　<　>　>

二、1. ②　2. ①　3. ②

三、1. 6　1100　900　7　56　9　2000　9

300 克　91 克　1 千克或 1000 克

2. 58 ÷ 6 = 9……4　　76 ÷ 9 = 8……4

$$\begin{array}{r} 9 \\ 6\overline{)58} \\ \underline{54} \\ 4 \end{array} \qquad \begin{array}{r} 8 \\ 9\overline{)76} \\ \underline{72} \\ 4 \end{array}$$

45 ÷ 6 = 7……3

$$\begin{array}{r} 7 \\ 6\overline{)45} \\ \underline{42} \\ 3 \end{array}$$

3.

27 ÷ 9 × 7	67 − 35 + 24
= 3 × 7	= 32 + 24
= 21	= 56
(46 + 18) ÷ 8	32 ÷ (65 − 57)
= 64 ÷ 8	= 32 ÷ 8
= 8	= 4
72 ÷ 9 × 4	6 × 7 − 42
= 8 × 4	= 42 − 42
= 32	= 0

四、1. 38 − 8 = 30（元）

30 ÷ 6 = 5（名）

口答：有 5 名同学去了动物园。

【点拨】从总钱数中减去王老师买门票的 8 元就是同学们买门票所花的钱。

2. 9 × 4 ÷ 6 = 6（只）

口答：每个水池里分 6 只。

方法技能提升卷 2　初步的空间想象能力

一、1. ○　△　△　○

2. √　×　√　×　×　×　√　×　×　√

3. 45 分钟　20 分钟　55 分钟

【点拨】分针从 12 开始，每走一大格，走了 5 分钟，故也可以 5 个 5 个地数。

4. 蜻蜓　台灯　衣服　中国结

二、√　×　√　√

三、1.



2.

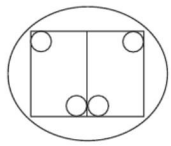

四、右　2　下　6

右　2　下　4

【点拨】关注关键条件“要铺满最下面一层”。

方法技能提升卷 3　初步的数感

一、1. 9057　九千零五十七　5097　5079

【点拨】大于 5000 并且小于 5700，推理出这个数的千位一定是 5，百位不可能是 7，也不可能是 9，那百位只能是 0。

2. 5　8　3　6　4

3. 400　103　【点拨】最大的三位数，说明百位是 4，而各位数字之和是 4，

关注微信公众号“教辅资料站”获取更多学习资料

所以十位和个位都是0；最小的三位数，说明百位是1，十位是0，那个位就是3。

4. 1

5. $12 \div 2 = 6$　$24 \div 3 = 8$（答案不唯一）

二、$4 \times 7 = 28$　$28 \div 4 = 7$　$7 \times 4 = 28$

$28 \div 7 = 4$　四七二十八

三、> > = > < > < > >

四、× ÷ ÷ + − × − +

五、

$$\begin{array}{r} 8 \\ 8\overline{)\,6\ \ 4} \\ 6\ \ 4 \\ \hline 0 \end{array} \qquad \begin{array}{r} 7 \\ 6\overline{)\,4\ \ 3} \\ 4\ \ 2 \\ \hline 1 \end{array}$$

$$\begin{array}{r} 7 \\ 8\overline{)\,5\ \ 9} \\ 5\ \ 6 \\ \hline 3 \end{array} \qquad \begin{array}{r} 7 \\ 5\overline{)\,3\ \ 6} \\ 3\ \ 5 \\ \hline 1 \end{array}$$

$$\begin{array}{r} 9 \\ 9\overline{)\,8\ \ 4} \\ 8\ \ 1 \\ \hline 3 \end{array} \qquad \begin{array}{r} 8 \\ 4\overline{)\,3\ \ 5} \\ 3\ \ 2 \\ \hline 3 \end{array}$$

（第4个竖式的被除数和余数答案不唯一）

方法技能提升卷4　有余数的除法应用题

一、1. 9　7　【点拨】余数要比除数小，余数是6，除数最小是7。

2. 5

3. ○

4. 60　29

5.（1）3　5　2

（2）5　3　2

二、1. $45 \div 8 = 5$（天）……5（个）

$5 + 1 = 6$（天）

口答：至少需要6天才能完成。

【点拨】多余的5个还需要做1天，因此$5 + 1 = 6$（天）。

2. $27 \div 4 = 6$（杯）……3（元）

口答：最多可以买6杯果汁。

3. $26 \div 3 = 8$（组）……2（颗）

蓝：$8 \times 2 + 2 = 18$（颗）

黄：$8 \times 1 = 8$（颗）

口答：蓝色珠子用了18颗，黄色珠子用了8颗。

【点拨】3颗珠子为一组，其中有2颗蓝色珠子，1颗黄色珠子。

4.（1）$23 \div 3 = 7$（条）……2（人）

$7 + 1 = 8$（条）

口答：至少要8条小船。

（2）$23 \div 5 = 4$（条）……3（人）

$4 + 1 = 5$（条）

口答：至少要5条大船。

（3）$23 - 3 = 20$（人）

$20 \div 5 = 4$（条）

口答：还可以租1条小船和4条大船。（答案不唯一）

5. $34 \div 5 = 6$（个）……4（颗）

$22 \div 3 = 7$（个）……1（颗）

$19 \div 2 = 9$（个）……1（颗）

$6 < 7 < 9$

关注微信公众号“教辅资料站”获取更多学习资料

口答：这些糖果最多可以组装成6个这样的礼盒。

重难点突破卷1　两步的应用题

一、1. 1300　2. 9　3. 400

4. 54　【点拨】先求出商，列式是9－3＝6，再求被除数，列式是6×9＝54。

5. （1）9　【点拨】列式是：3×5－2×3＝9（分）。

（2）17

二、1. 4×(7－3)＝16（元）

口答：女同学比男同学多花16元钱。

2. (45＋18)÷9＝7（个）

口答：可以分给7个班。

3. 40－8＋6＝38（下）

口答：小芳跳了38下。

4. 6×2＋34＝46（位）

46＜50

口答：座位不够。

【点拨】每把双人椅能坐2人。

5. （1）54÷9＝6（元）

24－6＝18（元）

口答：1双手套比1条毛巾贵18元。

（2）24÷6＝4（条）

口答：买1双手套的钱可以买4条毛巾。

重难点突破卷2　初步的逻辑推理能力

一、1. 小丁　【点拨】也可以这样推理，第一名不是小刚，也不是小强，那第一名就是小丁。

2. 黄

3. 圆圆　胖胖

4. 4　360、306、630、603

5. 小冰　小华

二、

	2	7			4	5	
＋	5	4		＋	1	7	
	8	1			6	2	
	9	2			6	4	
－	3	8		－	1	8	
	5	4			4	6	

【点拨】先肯定能填出的数字是4、2、6、8，再确定第2道算式中的十位上只能填1，还剩下3、5、7、9，而只有9－3＝6，如果被个位借“1”后，就是5，所以9和3填在第3道算式里。第2道算式中5和7位置可互换。

三、1. **口答：**B是3，C是1。

2. **口答：**小华分到的是白气球，小春分到的是红气球，小宇分到的是蓝气球。

3.

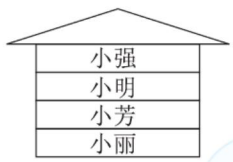

4. **口答：**偷蜂蜜的是小飞。

【点拨】从三句话推理出，小飞体重最重。

重难点突破卷3　熟练理解万以内的数

一、1. 1500　120

关注微信公众号“教辅资料站”获取更多学习资料

2. 8239　8241　5999　6001　918　920

3. 9050

4. 7541　1045　5. 8　6　2

二、8070　6398　3587　2073　908　496

三、800　200　150　4000　700　6100

四、1. 489＜500　495＜500

500＋500＝1000（个）

1000＜1100

489＋495＜1100

口答：做这些彩蛋给超市还不够。

2.（1）800－500＝300（元）

口答：一个电饭煲300元。

（2）800＋900＝1700（元）

口答：一台电视机1700元。

3.（1）5300＋4000＝9300（元）

口答：最多花去9300元。

（2）4000＋400＝4400（元）

口答：最少花去4400元。

重难点突破卷4　应用题的综合练习

一、1. 24÷4＝6（米）

2. 6×3÷9＝2（块）

3.（72－51）÷3＝7（米）

4. 26＋8×6＝74（元）

二、1.（1）137＞136＞129

口答：第一名是刘笑，第二名是余珍，第三名是李佳。

（2）**口答：**老师会选刘笑参加全市的少儿运动会。

2.（1）24÷6＝4（元）

25÷5＝5（元）

9÷3＝3（元）　3＜4＜5

口答：买C种茶杯最划算。

（2）22÷3＝7（个）……1（元）

口答：最多可以买7个。

3.（1）2898＋3965≈7000（元）

口答：买一张床和一个沙发一共大约7000元。

（2）3965＜4000　998＜1000

3965＋998＜5000

口答：够。

4. 23÷5＝4（组）……3（名）

36÷5＝7（组）……1（名）

口答：23是丙报的，36是甲报的。

【点拨】当余数是1，是甲报的；当余数是2，是乙报的；当余数是3，是丙报的；当余数是4，是丁报的，当没有余数，是戊报的。

关注微信公众号“教辅资料站”获取更多学习资料