好卷



同步 跟踪检测 | 周测 培优卷 | 单元 检测卷 | 期中 检测卷

期末 复习冲刺 | 专项能力 提升卷 | 模块 过关卷 | 仿真 模拟卷

教辅资料站

电子教辅　试卷练习
知识总结　备课资源

扫码关注获取更多学习资料

二年级 下 JJ版 数学

好题 ★ 好卷 ★ 好成绩

吉林教育出版社

《好卷》=《大卷》+《小卷》：不是所有的试卷都叫“好卷”
期末提分才是硬道理

同步测评用

小卷 周测培优卷

厘米、分米、米 …… 1
有余数的除法（认识和笔算） …… 3
用有余数的除法解决问题 …… 5
认识 1000 以内的数 …… 7
千克和克 …… 9
四边形的认识 …… 11
三位数加减三位数及验算 …… 13
混合运算和解决问题 …… 15
时、分、秒 …… 17
探索乐园 …… 19

大卷 单元检测卷

第一单元 跟踪检测卷 …… 1
第二单元 跟踪检测卷 …… 3
第三单元 跟踪检测卷 …… 5
第四单元 跟踪检测卷 …… 7
期中 检测卷 …… 9
第五单元 跟踪检测卷 …… 11
第六单元 跟踪检测卷 …… 13
第七、八单元 跟踪检测卷 …… 15

大卷答案 见大卷29~34页 小卷答案 见小卷35~46页

期末冲刺用

小卷 专项能力提升卷

有余数的除法 …… 21
单位的认识 …… 23
四边形的认识 …… 25
1000 以内数的认识及计算 …… 27
实际应用 …… 29
常考易错突破卷（一） …… 31
常考易错突破卷（二） …… 33

模块过关卷

数与代数 …… 17
图形与几何、量的计量 …… 19

大卷 仿真模拟卷

仿真模拟卷（一） …… 21
仿真模拟卷（二） …… 23
石家庄市新华区期末测试卷 …… 25
石家庄市桥西区期末测试卷 …… 27



关注微信公众号“教辅资料站”获取更多学习资料

如何选择一本好卷？

现在市场上试卷类教辅比比皆是，质量却参差不齐，加之各学科“核心素养”的提出，就更加突出一本“好”卷的稀有和珍贵。如何慧眼识珠，茶烈并被选到一本“好”卷，令教师教学如鱼得水，使学生学习事半功倍，显得至关重要。欣德基老师将其与全国众多优秀教改专家的研究成果汇总成四点分享如下，希望对广大师生有所裨益。

1 形式上要“好用”

测试方便：活页试卷，收发自如。

时间灵活：课后自测、课堂小测、班级统测，一应俱全。

卷面规范：字迹清晰，题空合理，版面整齐。

2 读懂试卷优劣的“四个指标”

一份试卷质量的优劣可用四个指标来评价：信度、效度、难度和区分度。

信　度：真实地反映考生的实际水平，体现在试题的难度、题目的数量、题目用语的准确性方面。

效　度：评测目的明确、命题范围准确、题目考查形式合理。

难　度：每一道试题的难度合理，整套试卷的难度适中。

区分度：区分度高的试卷能将不同水平的学生区分开来，水平高的学生得高分，水平低的学生得低分。

3 抓住卷的核心：“好题”

卷的核心是“好题”，每套卷中的好题堪称灵魂，是广大师生十分期待的。

“好题”特征之一是：**引领命题方向**。如题型新颖、考法新奇、结合生活实际、情境化、应用性突出。

“好题”特征之二是：**体现学科素养**。如：语文倡导主题读写能力测评，数学注重实际问题的解决，英语倾向于听说读写综合能力提升。

4 解决老师和学生痛点：“实用”

市场上现有试卷多数为“大卷”，即标准统考卷，在评测时间及针对性上老师会觉得用着不顺手，不能真正做到与教学同步及针对性测评。老师们都急需短时高效、针对性强的“小卷”，如针对每单元基础知识梳理的评测、专项应用能力的评测及主题阅读素养的评测等。

抓住以上四点，即可帮你锁定一本好的试卷，让你收获满满！



《好卷》正是一本这样的书！用好卷 做好题 定能取得好成绩！



拍手歌

DAI SHOU GE

你拍一，　我拍一，　高效学习做“好题”；
你拍二，　我拍二，　我有《好卷》藏宝袋；
你拍三，　我拍三，　常做习题不怕难；
你拍四，　我拍四，　我是勤学好孩子；
你拍五，　我拍五，　天天向上不马虎；
你拍六，　我拍六，　快乐成长争优秀；
你拍七，　我拍七，　循序渐进好阶梯；
你拍八，　我拍八，　成绩优秀顶呱呱；
你拍九，　我拍九，　学习习惯要持久；
你拍十，　我拍十，　永远认真学知识。



关注微信公众号“教辅资料站”获取更多学习资料

第一单元 跟踪检测卷

厘米、分米、米

时间：60分钟　满分：100分+10分

题号	一	二	三	四	五	附加题	总分
得分							

姓名　学号　班级　学校

一、填空。（每空1分，共22分）

1. 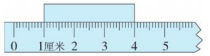

这张纸条长(　　)厘米。

2. 我们学过的长度单位有(　　)、(　　)、(　　)。

3. 直尺上，从刻度0到5是(　　)厘米，从刻度4到15是(　　)厘米。

4. 橡皮的厚度大约是(　　)厘米，图钉的长度大约是(　　)厘米。

5. 200厘米＝(　　)米　　(　　)米＝30分米
6米8分米＝(　　)分米　　350厘米＝(　　)米(　　)分米
1米－60厘米＝(　　)厘米＝(　　)分米

6. 在(　　)里填上合适的长度单位。
(1)一支蜡笔长8(　　)。
(2)姐姐的身高是1(　　)46(　　)。
(3)一条裤子长1(　　)。
(4)我们使用的直尺长约2(　　)。
(5)一幢大楼高56(　　)。
(6)教室门高2(　　)。

二、判断。（对的在括号里画“√”，错的画“×”。每题2分，共10分）

1. 聪聪绕操场跑一圈，跑了400 cm。(　　)
2. 我一步大约能走47 dm。(　　)
3. 测量一棵树的高度用厘米作单位。(　　)
4. 画一条长6厘米的线段，可以从直尺的刻度1画到刻度8。(　　)
5. 10分米比99厘米短。(　　)

三、选择。（将正确答案的序号填在括号里。每空2分，共14分）

1. 体育课上我们进行了100(　　)短跑比赛。
① cm　② dm　③ m

2. 商店柜台的高度是1(　　)20(　　)。
① cm　② dm　③ m

3. 1米的一半是(　　)。
① 50米　② 50分米　③ 50厘米

4. 用(　　)来测量学校操场的长比较合适。
① 三角尺　② 米尺　③ 卷尺

5. 小明用长20厘米的尺子量课桌的高度，测得它的高度比三个尺子的长度还多10厘米，这张课桌的高度是(　　)。
① 1米　② 50厘米　③ 70厘米

6. 一条绳子长8分米，把它对折再对折后，每段长(　　)厘米。
① 40　② 20　③ 2

四、按要求做题。（共22分）

1. 在○里填上“＞”“＜”或“＝”。（6分）
40厘米○5米　　83厘米○38厘米
300厘米○3米　　395厘米○4米
1米－20厘米○70厘米　　40分米＋3米○43分米

2. 将下列长度按从短到长的顺序排列。（4分）
21分米　　2米3分米　　20厘米　　2米20厘米

3. 画一画。
(1)画一条比1分米短6厘米的线段。（3分）

(2)画一个三角形，使其中一条边的长度为5厘米。（3分）

关注微信公众号“教辅资料站”获取更多学习资料

4. 量一量，填一填。(6 分)

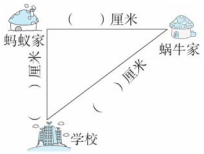

(1)(　　)家离学校近一些。

(2)蜗牛从家去学校，最少爬(　　)厘米。

(3)蚂蚁从家出发先到蜗牛家，然后到学校，共爬了(　　)厘米。

五、解决问题。(共 32 分)

1. 一条绳子第一次剪去 21 厘米，第二次剪去 34 厘米，还剩下 45 厘米，这条绳子原来长多少厘米，合多少米？(6 分)

2. 一辆货车装满货物，货物顶端距地面 380 厘米，现要通过一座限高为 4 米的铁路桥，这辆货车能顺利通过吗？(6 分)

3. 把一根长 3 米的绳子平均分成 5 段，每段绳子长多少分米？(6 分)

4. 小美身高 70 厘米，凳子高多少厘米？(7 分)



5. 妈妈把一条绳子对折后从中间剪开，较短的绳子长 3 分米，原来的绳子有多长？(7 分)



附加题：(10 分)

请你找出这把尺子能够直接测量的长度。



关注微信公众号“教辅资料站”获取更多学习资料

第二单元 跟踪检测卷

有余数的除法

时间：60分钟　满分：100分+10分

题号	一	二	三	四	五	六	附加题	总分
得分								

姓名　学号　班级　学校

一、填空。（每空1分，共23分）

1. 被除数是30，除数是最大的一位数，商是(　　)，余数是(　　)。
2. 10月份(31天)有(　　)个星期，还余(　　)天。
3. 算式□÷6=5……○中，○最大是(　　)，这时□是(　　)。
4. 小明用3根小棒拼成一个三角形，现在有17根小棒，可以拼成(　　)个三角形，还剩(　　)根小棒。
5. 直接写出下面各题的商和余数。

19÷3=□……□　　36÷5=□……□　　73÷8=□……□

6. (　　)里最大能填几？

(　　)×8<36　　9×(　　)<44　　34>(　　)×7

5×(　　)<31　　54>(　　)×7　　39>(　　)×6

7. 二(2)班22名同学去植树，每植一棵树需要1人扶树，2人培土，1人浇水，那么这些同学最多可以分成(　　)组。
8. 有42块巧克力，至少拿出(　　)块，剩下的才能平均分给5个小朋友，每个小朋友可分得(　　)块。

二、判断。（对的在括号里画“√”，错的画“×”。每题2分，共8分）

1. 41÷6=7……1。(　　)
2. 43÷8和66÷9的余数相同。(　　)
3. 除数是8，余数一定是7。(　　)
4. 在有余数的除法中，余数可能和商相等。(　　)

三、选择。（将正确答案的序号填在括号里。每题3分，共12分）

1. 下面算式中余数最大的是(　　)。

①25÷6　　②19÷4　　③58÷8

2. 在一道除数是6的有余数的算式中，余数不可能是(　　)。

①6　　②4　　③3

3. 在一道有余数的除法算式中，除数是7，余数有(　　)种可能。

①6　　②7　　③8

4. ※※○○○□※※○○○□……像这样依次重复下去，第40个图形是(　　)。

①※　　②○　　③□

四、按要求做题。（共27分）

1. 分一分。（6分）

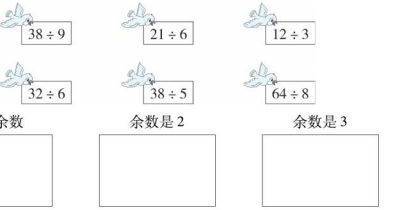

2. 森林医生。（对的画“√”，错的画“×”，并改正）（9分）



3. 用竖式计算。（12分）

70÷8=　　21÷5=　　54÷7=　　64÷9=

让点耳朵，请不要在密封线内答题哦！

关注微信公众号“教辅资料站”获取更多学习资料

五、看图列式计算。(每题3分,共6分)

1.

□ ÷ □ = □(组)……□(个)

2.

□ ÷ □ = □(个)……□(个)

六、解决问题。(共24分)

1.(4分)



2. 有一袋糖,平均分给6个人,每个人8块,还剩5块,这袋糖一共有多少块?(4分)

3. 王奶奶用3米长的彩带编织4个中国结,还剩6分米,平均每个中国结用彩带多少分米?(4分)

4. 二年级美术小组有30名同学一起去郊游。


小汽车限乘4人(除司机外)


面包车限乘9人(除司机外)

(1)如果都租小汽车,最多可以坐满几辆车?还剩几名同学?(4分)

(2)如果都租面包车,至少要租几辆?(4分)

(3)还可以怎样安排租车呢?用算式说明你的想法。(4分)

附加题:(10分)

某动物园运来42只猴子,15只老虎。每个笼子可以关8只猴子或者2只老虎。该动物园至少应准备多少个笼子?

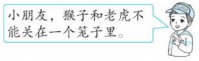

关注微信公众号"教辅资料站"获取更多学习资料

第三单元 跟踪检测卷

认识1000以内的数

时间：60分钟　满分：100分+10分

题号	一	二	三	四	五	附加题	总分
得分							

姓名　学号　班级　学校

一、填空。（每空1分，共29分）

1. 一个数从右起，第二位是(　　)位，第四位是(　　)位。
2. 一百是(　　)个十，一千是(　　)个百。
3. 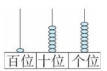

这个数是(　　)，它是由(　　)个百，(　　)个十和(　　)个一组成的，读作(　　)。
4. 999的最高位是(　　)位，比它大1的数是(　　)。
5. 与889相邻的数是(　　)和(　　)，100的前一个数是(　　)。
6. 在◯里填上“＞”“＜”或“＝”。

307 ◯ 370　　791 ◯ 790　　202 ◯ 220

598 ◯ 895　　197 ◯ 200　　805 ◯ 750

7. 比最小的两位数多1的数是(　　)，比最大的三位数少1的数是(　　)。
8. 估一估有多少颗。


有50颗


大约有(　　)颗


大约有(　　)颗

9. 用4、0、8可以组成(　　)个不同的三位数，最大的是(　　)，最小的是(　　)。
10. 一辆童车的价钱是5□8元。买这辆童车最多需要(　　)元，最少需要(　　)元。

二、判断。（对的在括号里画“√”，错的画“×”。每题2分，共10分）

1. 一个数的最高位是百位，这个数一定是三位数。(　　)
2. 读数和写数都要从低位开始。(　　)
3. 所有的三位数一定大于所有的两位数。(　　)
4. 120里面有12个十。(　　)
5. 用7、3、9三个数字可以组成6个不同的三位数。(　　)

三、选择。（将正确答案的序号填在括号里。每题2分，共8分）

1. 百位上的数字都是9的一组数是(　　)。

① 192、291、395　② 906、927、915　③ 139、439、949

2. 下面最接近600的数是(　　)。

① 602　② 597　③ 599

3. 比458多得多的数是(　　)。

① 400　② 856　③ 470

4. 关于999，下列说法错误的是(　　)。

① 它是最大的三位数，比1000少1

② 它是由9个一、9个十和9个百组成的

③ 它比最小的三位数大890

四、按要求做题。（共38分）

1. 写一写，读一读。（6分）

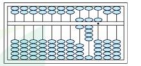
写作：_____

读作：_____

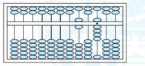
写作：_____

读作：_____

千位	百位	十位	个位
	○○○○	☆☆☆ ☆☆☆	△△△△

写作：_____

读作：_____

关注微信公众号“教辅资料站”获取更多学习资料

2. 找规律填数。(8 分)

(1) 

(2) 

(3) 

3. 填一填。(6 分)



(1) 比 800 大的数有_____。

(2) 与 900 最接近的数是_____。

(3) 在 700 和 900 之间的数有_____。

4. 在□里可以填哪些数字呢？(8 分)

(1) 518 > 51□

_____

(2) 873 < 8□2

_____

(3) 9□4 < 950

_____

(4) 488 > □87

_____

5. 按要求在每个计数器上画 6 颗珠子，各表示一个三位数。(6 分)

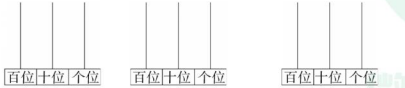

最小的数　　最大的数　　在 200 和 300 之间的数

6. 用 2 个 5 和 1 个 0 写出不同的三位数。(4 分)

(1) 要读 0 的数是(　　)。

(2) 不读 0 的数是(　　)。

五、解决问题。(每题 5 分，共 15 分)

1. 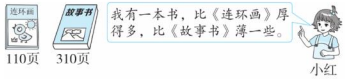

小红的书可能有多少页？在可能的页数下面画“√”。

80 页	320 页	280 页

2. 小明身高 166 厘米，小东身高 176 厘米，小莉身高 152 厘米，他们谁最高？

3. 火车的乘客人数比飞机的乘客人数多得多，飞机的乘客人数比轮船的乘客人数少一些，请把交通工具的名称填在表格中。

交通工具			
乘客人数	300 人	350 人	1000 人

附加题：(10 分)

亮亮忘记了电脑的密码，爸爸告诉他：密码是一个三位数，它的三个数字的和是 18，百位上与个位上的数字和是 12，十位上的数字比百位上的数字多 1。你知道亮亮家电脑的密码吗？

关注微信公众号“教辅资料站”获取更多学习资料

第四单元 跟踪检测卷

千克和克

时间：60分钟　满分：100分+10分

题号	一	二	三	四	五	六	附加题	总分
得分								

姓名＿＿＿＿　学号＿＿＿＿　班级＿＿＿＿　学校＿＿＿＿

一、填空。（每空1分，共19分）

1. 周末，丫丫和妈妈要去姥姥家，她们买了一只重2(　　)的鸡，一条重800(　　)的鱼和一个重5(　　)的大西瓜。

2. 在(　　)里填上合适的数。

7千克＝(　　)克　　4500克＝(　　)千克(　　)克

2000克＝(　　)千克　　1千克300克＝(　　)克

200克＋800克＝(　　)克＝(　　)千克。

3. 1枚1角硬币大约重1克，1000枚1角硬币大约重(　　)千克。

4. 把下面各个质量按从重到轻的顺序填在括号里。

800克　1千克
989克　890克
889克



(　　)>(　　)>(　　)>(　　)>(　　)

5. 写出下面的物品有多重。


(　　)g


(　　)kg


(　　)g

二、判断。（对的在括号里画“√”，错的画“×”。每题2分，共10分）

1. 聪聪是二年级的小学生，身高138厘米，体重40克。(　　)

2. 8个鸡蛋大约重500克。(　　)

3. 200克比199米重。(　　)

4. 1000克石头比1千克木头重。(　　)

5. 物体的轻重与高矮有关系，物体越高就越重。(　　)

三、选择。（将正确答案的序号填在括号里。每空2分，共12分）

1. 一枚1元硬币大约重(　　)。

①6克　②60克　③1千克

2. 爸爸的体重大约是(　　)。

①75克　②75千克　③750千克

3. 一筐橘子连筐重30千克，筐重3000克，橘子的质量是(　　)千克。

①33　②27　③29

4. 2只鸭子的质量等于3只鸡的质量，已知1只鸭子重3千克，1只鸡重(　　)。

①3千克　②4千克　③2千克

5. 一头牛重380千克，一匹马比一头牛轻一些，一头猪比一头牛轻得多，一匹马重(　　)千克，一头猪重(　　)千克。

①390　②370　③150

四、算一算，比一比。（每题6分，共12分）

1. 直接写得数。

38克＋62克＝　　36千克÷4＝　　28千克＋71千克＝

99克－26克＝　　1千克－800克＝　　5千克×8＝

2. 小蜜蜂采花蜜。







300克○310克　　500克○5千克　　4千克○4000克

980克○1千克　　8060克○8千克　　10克○10克

关注微信公众号“教辅资料站”获取更多学习资料

五、按要求做题。(共 34 分)

1. 我会圈。(计量下面的物品有多重,用哪个单位合适?)(8 分)


(克　千克)


(克　千克)


(克　千克)


(克　千克)

2. 1 个西瓜的质量 = (　　)个苹果的质量。(3 分)



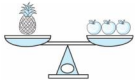

3. 最重的画△,最轻的画○。(6 分)

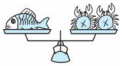

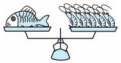


□


□


□

4. 画上相应的指针。(9 分)


西瓜重 4 kg


面包重 400 g


果酱重 800 g

5. 大象医生正在给森林里的动物们做体检,你能帮它把记录补充完整吗?(8 分)

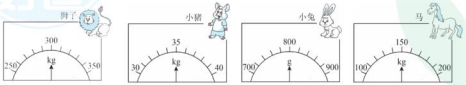

(1)(　　)最重,重(　　);(　　)最轻,重(　　)。

(2)按从重到轻的顺序给小动物们排序:(　　)、(　　)、(　　)、(　　)。

六、解决问题。(共 13 分)

1. 一筐苹果重 48 千克,分装在 6 个塑料袋里,平均每个塑料袋里放多少千克的苹果?(4 分)

2. 把这些萝卜平均分给 9 只小兔,每只小兔分到多少千克?(4 分)


46 千克


26 千克

3. 有 12 千克苹果和 8 筐橘子,每筐橘子重 4 千克,一辆手推车最多能装 50 千克水果,这些水果能一次运完吗?(5 分)

附加题:(10 分)

一杯水连杯子一共重 100 克,喝了一半后,连杯子重 68 克。你知道杯子有多重吗?

关注微信公众号"教辅资料站"获取更多学习资料

期中 检测卷

时间：60分钟 满分：100分+10分

题号	一	二	三	四	五	六	附加题	总分
得分								

姓名 学号 班级 学校

一、填空。（每空1分，共35分）

1. 直尺上，从刻度0到6是（　　）厘米，从刻度8到12是（　　）厘米。
2. 40里面有（　　）个5，14里面最多有（　　）个6。
3. 一个数除以7有余数，余数最大是（　　），最小是（　　）。
4. 678是（　　）位数，它是由6个（　　）、（　　）个十和8个一组成的，读作（　　）。
5. 最大的三位数是（　　），它与最小的四位数相差（　　）。
6. 在（　　）里填上合适的单位。



美美的身高约1（　　）20（　　）。　体重约24（　　）。



一片树叶长约5（　　）。



一个鸡蛋约重60（　　）。



一个文具盒长约2（　　）。



一座楼高约20（　　）。

7. 4分米＝（　　）厘米　　6千克＝（　　）克
   3米70厘米＝（　　）分米　　9200g＝（　　）kg（　　）g
8. 在○里填上“＞”“＜”或“＝”。
   1米○30厘米　　2米○200厘米　　908○809
   10个百○100个十　　9000克○9千克　　8千克○70克＋70克
9. 括号里最大能填几？
   30＞4×（　　）　　40＞（　　）×8　　（　　）×5＜34
10. 有一些糖，比30块多，比40块少，平均分给9个小朋友还多2块，每人分得（　　）块，一共有（　　）块糖。

二、判断。（对的在括号里画“√”，错的画“×”。每题2分，共10分）

1. 一条裤子长7米。（　　）
2. 在有余数的除法算式中，余数一定要比除数小。（　　）
3. 在算盘上，一个上珠表示5。（　　）
4. 230和350两个数中的“3”表示的意义一样。（　　）
5. 1千克报纸比1千克石头轻。（　　）

三、选择。（将正确答案的序号填在括号里。每题2分，共12分）

1. 右面算盘上表示的数是（　　）。

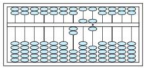

   ① 652　　② 216　　③ 256
2. 商和余数相等的算式是（　　）。
   ① 24÷7　　② 17÷5　　③ 16÷6
3. 由8个十和5个百组成的数是（　　）。
   ① 850　　② 580　　③ 508
4. 在算式□÷5＝3……2中，被除数是（　　）。
   ① 13　　② 17　　③ 15
5. 有43筐菜，每次运5筐，最少要（　　）次才能运完。
   ① 8　　② 9　　③ 10
6. 用3，6，9三个数字组成不同的三位数，并把它们按从小到大的顺序排列，排在第二个的是（　　）。
   ① 396　　② 639　　③ 936

四、按要求做题。（每题3分，共6分）

1. 在数位表中用你喜欢的图形表示635。

千位	百位	十位	个位

过点儿提示：请不要在密封线内答题哦！

关注微信公众号“教辅资料站”获取更多学习资料

2. 画一条比 4 厘米短 1 厘米的线段。

五、计算。(共 16 分)

1. 直接写得数。(4 分)

7 × 8 =	19 ÷ 8 =	63 ÷ 7 =	32 克 + 68 克 =
20 ÷ 7 =	13 ÷ 5 =	6 × 9 =	1 千克 − 80 克 =

2. 用竖式计算。(12 分)

38 ÷ 8 =　　65 ÷ 7 =　　50 ÷ 6 =　　23 ÷ 5 =

六、解决问题。(共 21 分)

1. 每只小鸭分几条虫子？还剩几条虫子？(5 分)



2.



小青家、小华家各种了多少棵果树？填在合适的空格里。(6 分)

580 棵	100 棵	560 棵	600 棵	950 棵
小豪家				

3. 周末，妈妈带小军去公园玩，允许小军最多花 30 元钱。

名称	碰碰车	摩天轮	木马	蹦蹦床
每人每次的价格	4 元	9 元	2 元	3 元

(1) 只坐摩天轮，能坐几次？还剩几元？(3 分)

(2) 只玩碰碰车，能玩几次？还剩几元？剩下的钱还可以玩什么？(3 分)

(3) 请你帮小军设计一个剩余 5 元钱的方案。(4 分)

附加题：(10 分)

把长度分别是 3 厘米、4 厘米、5 厘米的三张纸条接成长纸条，接头处为 1 厘米，接成的长纸条的长度是多少厘米？

关注微信公众号“教辅资料站”获取更多学习资料

第五单元 跟踪检测卷

四边形的认识

时间：60分钟　满分：100分+10分

题号	一	二	三	四	五	附加题	总分
得分							

姓名　学号　班级　学校

一、填空。（每空1分，共14分）

1. 四边形有(　　)条边，(　　)个角，我们学过的(　　)、(　　)和(　　)都是四边形。
2. 日常生活中，鞋盒的表面是(　　)形，魔方的表面是(　　)形。
3. 一个易变形的长方形塑料框架，容易拉成一个(　　)形。
4. 用两个边长都是3厘米的正方形拼成一个长方形，这个长方形的长是(　　)厘米，宽是(　　)厘米。
5. 下图中的正方形被挡住的是(　　)角。



第5题图



第6题图

6. 上面的长方形纸，至多可以裁出(　　)个最大的正方形。
7. 用同样的小棒摆一个正方形，至少用(　　)根小棒，摆一个长方形，至少用(　　)根小棒。

二、判断。（对的在括号里画“√”，错的画“×”。每题2分，共10分）

1. 长方形比正方形大。(　　)
2. 由四条线段围成的图形一定是长方形。(　　)
3. 长方形和平行四边形的对边相等，四个角都是直角。(　　)
4. 一张正方形纸片沿着对边中点的连线剪开后，可以分成两个完全一样的长方形。(　　)
5. 6个完全一样的正方形一定能拼成一个大的正方形。(　　)

三、选择。（将正确答案的序号填在括号里。每空2分，共16分）

1. 下面图形中，是平行四边形的是(　　)。

① 　② 　③ 

2. 四条边相等，四个角是直角的四边形一定是(　　)。

① 长方形　② 平行四边形　③ 正方形

3. 四个长是8厘米，宽是2厘米的长方形能拼成一个(　　)。

① 长方形　② 正方形　③ 长方形或正方形

4. 下面的图形分别被挡住了一部分，图①可能是(　　)，图②可能是(　　)。

① 长方形
② 正方形
③ 平行四边形





5. 下列各组木条中，能摆成长方形的是(　　)；能摆成正方形的是(　　)；能摆成平行四边形的是(　　)。


①


②


③

四、按要求做题。（共39分）

1. 分一分。（12分）

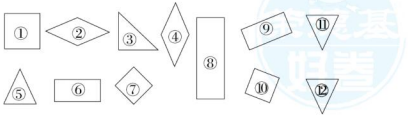

三角形	正方形	长方形	平行四边形

关注微信公众号“教辅资料站”获取更多学习资料

2. 量一量，算一算。(5分)



(1)　　(2)

(1)长是(　　)厘米，宽是(　　)厘米，四条边长总和是(　　)厘米。

(2)边长是(　　)厘米，四条边长总和是(　　)厘米。

3. 下面的方格纸上每个小正方形的边长都是1厘米。



(1)画一个长5厘米，宽2厘米的长方形。(3分)

(2)任意画一个平行四边形。(3分)

4. 数一数，填一填。(6分)

(1)

有(　　)个正方形

有(　　)个长方形

(2)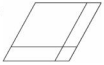

有(　　)个平行四边形

5. 在一张长方形的纸上剪下一个三角形，剩下的图形有几个角？画一画，填一填。(6分)



有(　　)个角　　有(　　)个角　　有(　　)个角

6. 下面右图是用左边的七巧板拼成的图形，说说像什么，并在拼成的图形上标上相应的序号。(4分)





五、解决问题。(共21分)

1. (1)在右面的长方形上画一个最大的正方形。(2分)

(2)正方形的边长是(　　)厘米。(2分)

(3)长不变，宽增加(　　)厘米，原来的长方形就变成正方形。(2分)



2. 一个平行四边形的四条边长总和是46厘米，其中一条边长是14厘米。平行四边形另外三条边长分别是多少厘米？(7分)

3. 把一个长是10厘米，宽是8厘米的长方形分成两个相同的小长方形，每个小长方形的长是多少厘米？宽是多少厘米？(8分)

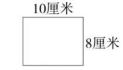

附加题：(10分)

公园管理人员计划在一个正方形池塘的四周栽28棵树，四个角分别栽1棵。如果每边栽8棵，应该如何来栽？请画出来。(相邻两棵树之间的距离相等)



关注微信公众号“教辅资料站”获取更多学习资料

第六单元 跟踪检测卷

三位数加减三位数

时间：60分钟　满分：100分+10分

题号	一	二	三	四	五	附加题	总分
得分							

姓名　学号　班级　学校

一、填空。（每空1分，共23分）

1. 3个百加4个百是(　　)个百，是(　　)。
2. 比501少145的数是(　　)，(　　)比177多77。
3. 用5、0、3三个数字组成一个最大的三位数是(　　)，最小的三位数是(　　)，它们的和是(　　)，差是(　　)。
4. 计算 674 －（215 ＋ 109）时，应先算(　　)法，再算(　　)法，结果是(　　)。
5. 先把算式补充完整，再把每组中的两个算式合并成一个算式。

(1) 187 ＋ 75 ＝ 262　　(2) 417 － 59 ＝ 358

615 － 262 ＝ □　　385 － 358 ＝ □

6. 图书馆第一天借出202本课外书，第二天借出196本课外书，图书馆还剩200本课外书，图书馆共有(　　)本课外书。
7. 爸爸带500元钱去超市购物，买一台电扇要用256元，买食品要用260元，爸爸还差(　　)元钱。
8. 先计算下面两个算式的得数，再分别写出两个有关的算式。

349 ＋ 463 ＝ □　　546 － 157 ＝ □

二、判断。（对的在括号里画“√”，错的画“×”。每题1分，共5分）

1. 用竖式计算加减法时注意相同数位对齐，从最高位算起。(　　)
2. 最大的三位数减去最小的三位数的差是900。(　　)
3. □27 ＋ 336，要使和是三位数，□里最大填9。(　　)
4. 计算 560 － 298 时，可以把“298”看成“300”计算，最后在计算结果中减去“2”。(　　)
5. 800 － 350 ＝ 450，被减数减小100，减数减小50，差会增加50。(　　)

三、选择。（将正确答案的序号填在括号里。每题2分，共10分）

1. 一个加数增加374，另一个加数减小374，和(　　)。
① 减小　② 增大　③ 不变
2. 验算 294 － 167 ＝ 127，下列验算方法错误的是(　　)。
① 294 － 127　② 167 ＋ 127　③ 294 ＋ 127
3. 下面算式中，与 427 － 179 的结果相同的是(　　)。
① 125 ＋ 223　② 444 － 196　③ 426 － 248
4. 用6、7、9三个数字组成的最大三位数与最小三位数的差是(　　)。
① 297　② 207　③ 288
5. 现在这台豆浆机比原来的价格便宜(　　)钱。
① 131元　② 149元　③ 49元



原价620元
现价489元

四、按要求做题。（共42分）

1. 直接写得数。（4分）

73 ＋ 37 ＝	46 ＋ 35 ＝	100 － 95 ＝	140 ＋ 60 ＝
180 ＋ 300 ＝	960 － 360 ＝	72 ＋ 26 ＝	540 ＋ 70 ＝

2. 小猫钓鱼。（连一连）（8分）

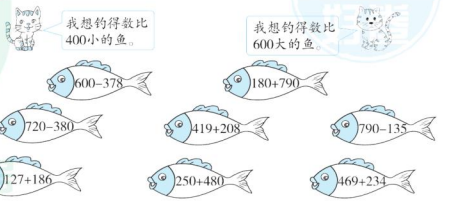

关注微信公众号“教辅资料站”获取更多学习资料

3. 用竖式计算并验算。(6 分)

349 + 563 =　　546 − 157 =

4. 脱式计算。(9 分)

860 − 144 − 326　　302 − 189 + 345　　495 + (946 − 538)

5. 下面的算式怎样简便就怎样算。(9 分)

764 + 203　　815 − 498　　623 − 174 − 126

6. 在□里填上合适的数字,使竖式成立。(6 分)

```
 □ 2 □          □ 0 □
+ 3 □ 9        − 5 □ 9
-------        -------
 7 3 8          2 8 1
```

五、解决问题。(共 20 分)

1. "六一"儿童节来临,二(1)班买了 700 个气球,布置教室用去 355 个,玩游戏用去 168 个,还剩下多少个气球?(5 分)

2. 玩具店里有下列商品。



198 元　288 元　168 元　189 元　266 元　88 元

(1)买一个机器人和一架玩具飞机一共要用多少元?(5 分)

(2)买一艘玩具轮船和一辆玩具汽车,500 元够吗?(5 分)

(3)500 元钱能买其中任意两种玩具吗?(5 分)

附加题:(10 分)

小马虎做加法题时,把一个加数个位上的 0 看成了 8,把十位上的 4 看成了 7,把百位上的 2 看成了 3,结果得数是 683,你能帮他算出正确的答案吗?

关注微信公众号"教辅资料站"获取更多学习资料

第七、八单元 跟踪检测卷

时、分、秒　探索乐园

时间：60分钟　满分：100分+10分

题号	一	二	三	四	五	附加题	总分
得分							

姓名　学号　班级　学校

一、填空。（每空1分，共23分）

1. 钟面上走得最快的是(　　)针，它走一大格的时间是(　　)。
2. 钟面上时针从6走到7，分针正好走(　　)圈，是(　　)分；分针从9走到12，秒针正好走(　　)圈，是(　　)分。
3. 50米赛跑，小红用了13秒，小丽用了12秒，(　　)跑得快。
4. 丫丫从家走到学校要20分钟，学校要求8:00到校，丫丫最晚(　　)从家出发。下午4:10放学，丫丫到家最早是(　　)。
5. 1时40分＝(　　)分　　120分＝(　　)时
   240秒＝(　　)分　　1分10秒＝(　　)秒
   90分＝(　　)时(　　)分　　105秒＝(　　)分(　　)秒
6. 红红和弟弟、妹妹一起去照相，如果红红站在中间，可以照(　　)张不同的照片；如果没有规定，可以照(　　)张不同的照片。
7. 小红、小丽、小强3人进行羽毛球比赛，排名结果有(　　)种可能。
8. 用数字5，0，6可以组成(　　)个不同的两位数，还可以组成(　　)个不同的三位数。
9. 1筐苹果的质量等于2筐梨的质量，2筐梨的质量等于4筐樱桃的质量，2筐苹果的质量等于(　　)筐樱桃的质量。

二、判断。（对的在括号里画“√”，错的画“×”。每题1分，共5分）

1. 在钟面上秒针走一圈是100秒。(　　)
2. 钟面上分针从3走到6，经过了30分。(　　)
3. 4名同学参加植树活动，每2名同学一组，可以有2种分法。(　　)
4. 三个小朋友每人玩一辆碰碰车，如果每两人碰一次，一共要碰3次。(　　)
5. ○＋○＋○＋△＋△＝14，△＝○＋○，则○＝2。(　　)

三、选择。（将正确答案的序号填在括号里。每题2分，共10分）

1. 一节课的时间是40(　　)。
   ① 秒　　② 分钟　　③ 小时
2. 现在是8:10，这场电影已经开始半小时了，电影是(　　)开始的。
   ① 7:40　　② 8:40　　③ 8:50
3. 
   一次只能拿两种水果，有(　　)种不同的拿法。
   ① 3　　② 6　　③ 9
4. 1个菠萝和(　　)个桃一样重。
   
   ① 2　　② 4　　③ 6
5. 1串葡萄的质量等于3个橘子的质量，2个橘子的质量是80克，1串葡萄重(　　)克。
   ① 40　　② 80　　③ 120

四、按要求做题。（共42分）

1. 按要求写出时刻。（8分）
   　再过3分　：
   　再过9分　：
   　再过25分　：
   　再过35分　：
2. 在下面的钟面上画出时针和分针。（8分）
   　4:05
   　8:15
   　3:55
   　8:25

这点题卡，请不要在密封线内答题哦！

关注微信公众号“教辅资料站”获取更多学习资料

3. 认真分析我会填。(8分)

(1)早上小明8(　　)到校,中午在家休息2(　　)。(填"时"或"小时")

(2)○+○+○=18　　△+○=14　　☆+☆+☆+☆=20

○=(　　)　　△=(　　)　　☆=(　　)

(3)=9千克

=7千克

=5千克

重(　　)千克　重(　　)千克　重(　　)千克

4. 按要求排一排。(每题6分,共18分)

(1)

不	怕	辣

3张卡片有(　　)种不同的排法,它们分别是:

_____　　_____　　_____

_____　　_____　　_____

(2)用2、0、5可以组成多少个不同的三位数?把它们从小到大排列起来。

(3)如果将下面的物品排成一行,有(　　)种不同的排法。

　　

①　②　③

用序号表示:(　　)、(　　)、(　　)、

(　　)、(　　)、(　　)。

五、解决问题。(共20分)

1. 柳林小学举办第六届"体育节"活动。

(1)亮亮从家到学校要走20分钟,要在活动开始前赶到学校,他最晚什么时候从家出发?(6分)



活动开始时间

(2)活动进行了2小时40分钟,结束时的时间是什么时候?(6分)

2. 小红从家到外婆家有几条路可走?(8分)

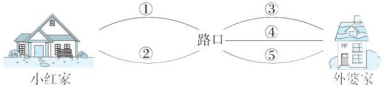

附加题:(10分)

星期天,明明和爸爸去郊游,上午出发时,明明看到时针和分针形成的角是直角,又正好是整时;下午回来时,明明再看看钟表,又是整时,且时针和分针形成的角是直角。他们郊游用了多长时间?

关注微信公众号"教辅资料站"获取更多学习资料

期末复习冲刺卷 模块过关卷（一）

数与代数

时间：60分钟　满分：100分+10分

题号	一	二	三	四	五	附加题	总分
得分							

姓名　学号　班级　学校

一、填空。（每空1分，共25分）

1. 写出下列各数。

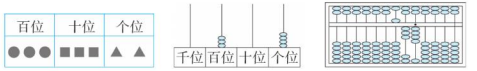

（　　）　（　　）　（　　）

2. □÷7=8……△，余数最大是（　　），此时被除数是（　　）。

3. 9个一和3个百组成的数是（　　），与这个数相邻的两个数是（　　）和（　　）。

4. 把一堆花生平均分给4个小朋友，如果有剩余，可能剩（　　）颗。

5. 在○里填上“＞”“＜”或“＝”。

305 ○ 350　　562 ○ 560　　375 ○ 357

1000 ○ 999　　180＋230 ○ 230＋180　　150＋700 ○ 150＋710

6. 找规律填数。

（1）50，100，150，200，（　　），（　　）。

（2）200，180，160，（　　），（　　）。

（3）130，230，330，（　　），（　　）。

7. 卡片上最大能填几？



8. 下图中，第一杯大约有1000粒豆子，第二杯大约有（　　）粒豆子。

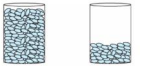

二、判断。（对的在括号里画“√”，错的画“×”。每题2分，共10分）

1. 28÷6＝4……4读作28除6等于4余4。（　　）
2. 个位上的“5”，十位上的“5”，百位上的“5”，意思相同，都表示“5”。（　　）
3. 比1000大的数有无数个。（　　）
4. 用3、0、8组成的三位数中，最大的是803。（　　）
5. 在三位数125中，数字“2”表示的数相当于数字“5”表示的数的4倍。（　　）

三、选择。（将正确答案的序号填在括号里。每题2分，共10分）

1. 在○÷△＝□……6中，除数最小应是（　　）。

① 7　　② 5　　③ 8

2. 下列各数的读法中读出零的是（　　）。

① 450　　② 405　　③ 400

3. 下列各种形式表示的数中，哪个数中的“3”表示3个百？你的选择是（　　）。

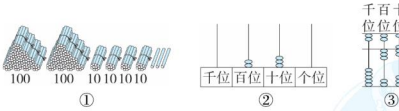

4. 小灰兔今年收了230千克白菜，小白兔收的比小灰兔少一些，小白兔可能收了（　　）千克白菜。

① 210　　② 150　　③ 250

5. 一本书，贝贝每天看5页，已经看了6天，还有36页没有看，这本书一共有多少页？正确的列式是（　　）。

① 5＋6＋36　　② 5×6＋36　　③ 36－5×6

四、计算。（共34分）

1. 直接写得数。（8分）

990－730＝　　25＋33＝　　300＋500＝　　25÷8＝

820＋140＝　　56－22＝　　150－90＝　　64÷7＝

关注微信公众号“教辅资料站”获取更多学习资料

2. 用竖式计算，带※的要验算。（14 分）

58 ÷ 9 =　　44 ÷ 8 =

※448 + 196 =　　※332 − 187 =

3. 脱式计算。（12 分）

365 − 198 + 257　　569 −（306 + 188）

467 − 278 − 121　　537 + 218 + 162

五、解决问题。（共 21 分）

1. 38 名同学站队。

（1）平均每排站 8 人，可以站几排，还剩下几人？（4 分）

（2）如果每 4 人站一排，至少要站几排？（4 分）

2. 一件上衣 196 元，一条裤子比一件上衣便宜 37 元，买一套衣服一共需要多少元？（4 分）

3. 爸爸带 1000 元买下面的物品还剩多少元？（4 分）



428 元



399 元

4. 根据下面的信息，自己提出一个数学问题，并解答。（5 分）



附加题：（10 分）

小马虎在做一道减法题时，把减数 324 错写成 224，这时得到的差刚好是 600，正确的差是多少？

关注微信公众号“教辅资料站”获取更多学习资料

期末复习冲刺卷 模块过关卷（二）

图形与几何、量的计量

时间：60分钟 满分：100分+10分

题号	一	二	三	四	五	六	附加题	总分
得分								

姓名 学号 班级 学校

一、填空。（每空1分，共25分）

1. 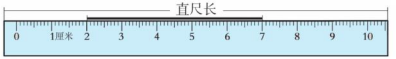

这把直尺的长大约是1（　　），用直尺量得这根铅芯长（　　）。

2. 奇奇的身高是1（　　）35（　　），体重约25（　　），每天睡9（　　），早上刷牙需要3（　　）。

3. 半时＝（　　）分　　74秒＝（　　）分（　　）秒

40分米＝（　　）米　　2千克＝（　　）克

4. 分针从4走到5是（　　）分钟，秒针走（　　）圈。

5. 用两个边长都是6厘米的正方形拼成一个长方形，这个长方形的长是（　　）厘米，宽是（　　）厘米。

6. 按要求排一排。

（1）2米　　30厘米　　1米5分米　　1米60厘米

（　　）>（　　）>（　　）>（　　）

（2）2千克　　1600克　　800克　　999克

（　　）<（　　）<（　　）<（　　）

7. 把☺、♡、☼三个图形摆成一排，一共有（　　）种不同的摆法。

二、判断。（对的在括号里画“√”，错的画“×”。每题2分，共10分）

1. 直尺上从头开始到刻度7是7厘米。（　　）

2. 每两个长度单位之间的进率都是10。（　　）

3. 把一个平行四边形的框架拉成一个长方形，随着平行四边形形状的改变，边的长短也在变化。（　　）

4. 七巧板是由一个长方形分割后得到的。（　　）

5. 三个人每两个人通一次电话，一共要通3次电话。（　　）

三、选择。（将正确答案的序号填在括号里。每题2分，共10分）

1. 王浩立定跳远能跳15（　　）。

① m　　② dm　　③ cm

2. 魔方的六个面都是（　　）。

① 长方形　　② 正方形　　③ 平行四边形

3. 爸爸早上7:25从家出发去单位，路上走了35分钟，他（　　）能到。

① 8:00　　② 7小时40分　　③ 7:40

4. 1个和（　　）个同样重。



① 12　　② 4　　③ 6

5. 3个小朋友比赛拍球（拍球下数各不相同），结果可能有（　　）种情况。

① 3　　② 5　　③ 6

四、按要求做题。（共21分）

1. 写出下面的物品有多重。（8分）



（　　）　（　　）　（　　）　（　　）

2. 数图形。

（1）（4分）



（　　）个长方形

（　　）个正方形

（　　）个三角形

（　　）个平行四边形

关注微信公众号“教辅资料站”获取更多学习资料

（2）（9 分）



（　　）个长方形

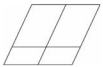

（　　）个平行四边形



（　　）个正方形

五、动手操作我最棒。（共 12 分）

1. 画两条线段，使下图中出现 8 个三角形。（2 分）



2. 找规律，写一写，画一画。（8 分）



2:00







3. 在方格纸上画一个长 4 厘米、宽 3 厘米的长方形。（每个方格的边长为 1 厘米）（2 分）

六、解决问题。（共 22 分）

1. 乐乐身高 135 厘米，爸爸身高 175 厘米，爸爸比乐乐高多少厘米？合多少分米？（4 分）

2. 2 只鸭子的质量等于 4 只鸡的质量。已知 1 只鸭子重 4 千克，1 只鸡重多少千克？（5 分）

3.

早　　读	8:00—8:30	课间休息	10 分钟
第一节课	8:40—9:20	课 间 操	9:20—9:45
第二节课	9:55—10:35		
第三节课	10:45—11:25		

（1）早读是多少分钟？（4 分）

（2）每节课的时间是多少分钟？（4 分）

（3）说一说 9:25 和 10:50 的时候，同学们分别在做什么？（5 分）

附加题：（10 分）

原有 1 克、2 克、5 克和 7 克的砝码各一个，丢掉一个砝码后，无法称一次就称出 8 克的质量，丢掉的是几克的砝码？

关注微信公众号“教辅资料站”获取更多学习资料

期末复习冲刺卷

仿真模拟卷(一)

时间：60分钟　满分：100分+10分

题号	一	二	三	四	五	六	附加题	总分
得分								

姓名 学号 班级 学校

一、填空。(每空1分,共30分)

1. 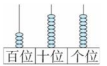

上面计数器上表示的数是(　　),它是由(　　)个百、(　　)个十和(　　)个一组成的。

2. 三百一十写作(　　),与它相邻的两个数分别是(　　)和(　　)。

3. □÷8=3……□,余数最大是(　　),这时被除数是(　　)。

4. 在(　　)里填上合适的单位。
(1)一袋方便面大约重125(　　)。
(2)一棵大树高4(　　)。
(3)小明的身高是1(　　)40(　　),体重是41(　　)。
(4)丽丽看完一场电影用了2(　　)40(　　)。

5. 用4,0,6这三个数字可以组成(　　)个不同的三位数,可以组成(　　)个不同的两位数。

6. 8米=(　　)分米　　2米5分米=(　　)厘米
2分4秒=(　　)秒　　2600克=(　　)千克(　　)克

7. 在一张长10厘米,宽8厘米的长方形纸上剪下一个最大的正方形,这个正方形的边长是(　　)厘米,剩下的长方形的长是(　　)厘米,宽是(　　)厘米。

8. 在○里填上“>”“<”或“=”。
308○298　　1000-30○700
500厘米○5米　　250克○2千克

二、判断。(对的在括号里画“√”,错的画“×”。每题2分,共10分)

1. 最大的三位数加1,就是最小的四位数。(　　)
2. 60根棒棒糖,至少拿出6根,剩下的才能平均分给9个小朋友。(　　)
3. 七巧板是由长方形、正方形、平行四边形、三角形共7块构成的。(　　)
4. 在减法中,被减数必须大于减数。(　　)
5. 钟面上,时针从8走到9,经过的时间是5分钟。(　　)

三、选择。(将正确答案的序号填在括号里。每题2分,共10分)

1. 在一道有余数的除法算式中,除数是6,则余数不可能是(　　)。
①3　　②5　　③7

2. 在算盘的百位上拨一颗上珠,在十位上拨一颗下珠,这个算盘表示的数为(　　)。
①150　　②501　　③510

3. 下面各题中结果比500多得多的算式是(　　)。
①200+300　　②710-200　　③300+290

4. 小军有148张画片,比小红多76张,两人一共有(　　)张画片。
①224　　②220　　③72

5. 1个菠萝和(　　)个桃一样重。



①2　　②4　　③6

四、按要求做题。(共10分)

1. 连一连。(4分)



9:55　　10:05　　3:25　　1:35

2. 画一条比1分米短6厘米的线段。(2分)

这点提示：请不要在密封线内答题哦！

关注微信公众号“教辅资料站”获取更多学习资料

3. 根据特征填一填。(4 分)

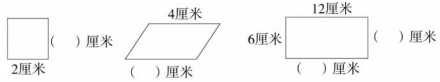

五、计算。(共 24 分)

1. 直接写得数。(4 分)

300 + 200 =	2 × 3 =	550 − 480 =	45 ÷ 7 =
4 × 7 =	80 + 30 =	1000 − 800 =	38 ÷ 8 =

2. 用竖式计算。(带※的要验算)(11 分)

53 ÷ 7 =　　※39 + 546 =　　※801 − 562 =

3. 用你喜欢的方法计算。(9 分)

258 − 117 − 58　　657 − (146 + 245)　　127 + 186 + 238

六、解决问题。(共 16 分)

1. 分苹果。每个小朋友分几个,还剩几个?(4 分)



2. 同学们排队检查身体,王华排在第 45 个,如果体检室每次进 6 个人,王华第几次才能进去?(4 分)

3.

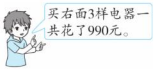

电器	价格(元)
双桶洗衣机	650
台式饮水机	
电风扇	98

(1)买一台台式饮水机需要多少元?(4 分)

(2)买一台电视机比买一台电风扇和一台台式饮水机的总钱数还多 578 元,买一台电视机多少元?(4 分)

附加题:(10 分)

超市的货架上每层货物的质量总和都是 9 千克。

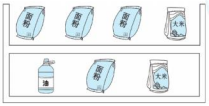



=4 千克



=(　　)千克



=(　　)千克

关注微信公众号“教辅资料站”获取更多学习资料

期末复习冲刺卷

仿真模拟卷(二)

时间：60分钟　满分：100分+10分

题号	一	二	三	四	五	六	附加题	总分
得分								

姓名　学号　班级　学校

一、填空。(第10题3分,其余每空1分,共23分)

1. 6个一和9个百组成的数是(　　),与这个数相邻的两个数是(　　)和(　　)。
2. 在抗洪抢险中,某村有34人被困。每条船最多坐5人,至少要准备(　　)条船才能让被困的人同时脱险。
3. 3小时5分钟=(　　)分钟　　100秒=(　　)分(　　)秒
   400厘米=(　　)米　　5千克=(　　)克
4. 把一个长方形框架拉成一个平行四边形,它的(　　)变了,(　　)没变。
5. (　　)里最大能填几?
   (　　)×4<26　　6×(　　)<35　　48>(　　)×7
6. 明明拿100元,买了一顶25元的帽子和一条45元的围巾,还剩(　　)元。
7. 烧一壶开水需要18分钟,如果张阿姨9:55开始烧水,水烧开的时刻是(　　)时(　　)分。
8. 
   这几件衣服,共有(　　)种搭配方式。
9. 根据485-120=365写出两个相关的算式:(　　)、(　　)。
10. 用2,5,7这三个数字可以组成(　　)个不同的三位数,把它们按照从小到大的顺序排列是:(　　)。

二、判断。(对的在括号里画"√",错的画"×"。每题2分,共10分)

1. 正方形4条边相等,4个角也相等。(　　)
2. 45人一起吃饭,每桌8人,至少需要5张桌子。(　　)
3. 厘米用字母"dm"表示。(　　)
4. 小明跑100米用了18秒,小白用了19秒,小明跑得快。(　　)
5. 263-127-78与263-(127+78)的运算顺序不相同,但结果相同。(　　)

三、选择。(将正确答案的序号填在括号里。每题2分,共10分)

1. 服装店里有两款上衣,定价分别为60元和100元,妈妈在服装店里买了三件上衣,妈妈可能花了(　　)元。
   ①400　　②220　　③150
2. 一个盒子的质量是200克,在盒子里放入800克的点心后,盒子和点心一共重(　　)。
   ①600克　　②10千克　　③1千克
3. 把32个礼物平均装在相同的盒子里,不能有剩余,应选(　　)号盒子。
   ①  每盒装5个
   ②  每盒装7个
   ③  每盒装8个
4. 在一张长为20 cm,宽为15 cm的长方形纸上剪下一个最大的正方形,正方形的边长是(　　)。
   ①15 cm　　②5 cm　　③10 cm
5. 钟面上,分针从12走到3,经过的时间是(　　)。
   ①3分　　②15分　　③20分

四、计算。(共25分)

1. 直接写得数。(4分)

390-170=	500-160-140=	145+78+22=	65÷7=
822+146=	78+(56-22)=	150-(56+94)=	88÷9=

2. 在□里填上合适的数。(6分)

```
  7 □ 8          9 □ 4
+ □ 9 7        - □ 5 6
-------        -------
  9 0 □          3 6 □
```

3. 脱式计算。(9分)
   467-278-121　　412-112+89　　568-(218+182)

关注微信公众号"教辅资料站"获取更多学习资料

4. 巧妙推算。(6 分)



1 个南瓜的质量 = (　　) 个桃子的质量



3 个西瓜的质量 = (　　) 个梨的质量

五、按要求做题。(每题 4 分,共 12 分)

1. 用直尺测量下面线段的长度。

(　) 厘米



(　) 厘米

2. 画出缺少的时针和分针。



3. 在方格纸上画一个平行四边形和一个正方形。



六、解决问题。(共 20 分)

1. 自行车超市有 827 辆自行车,一个星期卖了 435 辆,又运进 374 辆,现在有多少辆自行车?(4 分)

2. 李老师准备了一些铅笔送给同学们,如果每人分 6 支,可以分给 9 人,还剩 3 支,李老师一共准备了几支铅笔?(4 分)

3. 爸爸早上 8:00 开车从石家庄到北京,中间在服务区休息了 40 分钟,中午 12:30 到达北京,路上一共开了多长时间?(4 分)

4. 下面是和平小学一至三年级同学制作爱心卡情况的统计表。

年级	一	二	三	合计
张数	162	237		660

(1)三年级同学制作了多少张爱心卡?(4 分)

(2)一年级同学制作的爱心卡比二、三年级的总和少多少张?(4 分)

附加题:(10 分)

下面有四名小朋友,他们每两人要下一盘棋,这四名小朋友共要下多少盘棋?



苗苗　红红　贝贝　乐乐

关注微信公众号“教辅资料站”获取更多学习资料

期末复习冲刺卷

石家庄市新华区期末测试卷

时间：60分钟　满分：100分

题号	一	二	三	四	五	六	总分
得分							

姓名＿＿＿＿　学号＿＿＿＿　班级＿＿＿＿　学校＿＿＿＿

一、填空。(每空1分，共28分)

1. 由8个百、7个十和9个一组成的数是(　　)，与它相邻的两个数是(　　)和(　　)。

2. 看图，在(　　)里填上合适的单位。

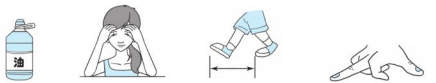

约重5(　　)。做眼保健操的时间约5(　　)。　一步长约4(　　)。　一拃长约15(　　)。

3. 在○里填上“＞”“＜”或“＝”。

6000克○6千克　　2米5厘米○25分米

100秒○1分30秒　　5 kg○500 g

4. (　　)里最大能填几？

4×(　　)＜27　53＞(　　)×7　(　　)×5＜39　70＞(　　)×8

5. 算式□÷□＝5……6中，除数最小是(　　)。

6. 从右面长方形中剪下一个最大的正方形，正方形的边长是(　　)厘米，剩下的长方形的长是(　　)厘米，宽是(　　)厘米。



7. 口算560＋90时，可以想(　　)个十加(　　)个十等于(　　)个十，所以结果是(　　)。

8. 先认真观察钟面，再填一填。



(　：　)　　(　：　)

9. 根据下面的算式写出两个有关的算式。

519－307＝212

＿＿＿＿＿＿　　＿＿＿＿＿＿

二、下列各图表示的数中，“1”分别表示什么？连一连。(6分)



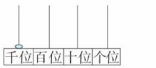

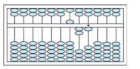

一个一　　一个十　　一个千

三、选择。(将正确答案的序号填在括号里。每题2分，共10分)

1. 下图中铅笔长(　　)厘米。

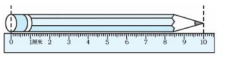

①9　　②10　　③11

2. 有48本课外书，至少要拿出(　　)本，剩下的正好可以平均分给5个班。

①2　　②3　　③4

3. 面包店里，一个面包5元，丫丫带了38元去买面包，她用竖式计算出可以买7个面包，竖式中箭头所指的一步是在算(　　)。

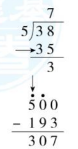

① 能买几个这样的面包

② 还剩多少元

③ 买7个面包一共多少元钱

4. 右面竖式中箭头所指的圆点表示的意思是(　　)。

① 个位不够减从百位借1当百

② 个位不够减从十位借1当十

③ 十位不够减从百位借1当10个十

5. 钟面上，分针走1小格，秒针走(　　)圈。

①1　　②5　　③60

关注微信公众号“教辅资料站”获取更多学习资料

四、计算。(每题6分,共12分)

1. 用竖式计算。(带※的要验算)

62 ÷ 9 =　　※603 − 378 =

2. 用自己的方法算一算。

362 + 279 + 138　　794 − 235 − 165

五、画一画。(每题2分,共6分)

1. 在方格纸中画一个长4个格,宽2个格的长方形。
2. 在方格纸中画一个平行四边形。



3. 在下面画一条长是5厘米的线段。

六、解决问题。(共38分)

1. 用下面这些纽扣可以钉几件衬衣?(5分)



2. 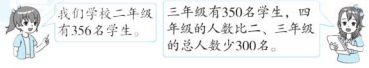

这个学校四年级有学生多少名?(4分)

3. 工人叔叔把一根木头锯成了两段,这两段相差多少厘米?合多少分米?(5分)



4. 新华路上投放了一批共享单车(A,B,C类),共500辆:



(1)C类共享单车有多少辆?(4分)

(2)王老师早晨7:15骑了一辆共享单车从家出发,25分钟后到了学校。王老师什么时刻到达学校?(4分)

(3)请你再提出一个数学问题,并解答。(6分)

5. 挑战自我。

(1)(4分)  =300克　 =240克

 =(　　)克　　 =(　　)克

(2)用5、8、0可以组成(　　)个三位数,最大的数与最小的数相差(　　)。(6分)

关注微信公众号"教辅资料站"获取更多学习资料

期末复习冲刺卷

石家庄市桥西区期末测试卷

时间：60分钟　满分：100分

题号	一	二	三	四	五	六	总分
得分							

一、填空。（每空1分，共25分）

1. 和399相邻的两个数是(　　)和(　　)。
2. 八百六十五是(　　)位数，写作(　　)。这个数是由(　　)个百，(　　)个十和(　　)个一组成的。
3. 
   读作(　　)
   写作(　　)
4. 用6、0、5这三个数字可以组成(　　)个不同的三位数，可以组成(　　)个不同的两位数。
5. 在(　　)里填上合适的质量单位。
   小明的体重是45(　　)。　　一袋味精重100(　　)。
6. 单位换算。
   3米＝(　　)分米　　5米5分米＝(　　)厘米
   2分7秒＝(　　)秒　　93秒＝(　　)分(　　)秒
7. 读出下面钟表上的时刻。
   　　
   (　　)　(　　)　(　　)
8. 找规律填空。
   (1)90、87、84、(　　)、(　　)
   (2)(　　)、(　　)、450、500、550

二、判断。（对的在括号里画“√”，错的画“×”。每题2分，共10分）

1. 最大的三位数与最大的两位数相差90。　(　　)
2. 笔算完加法后，可以用减法验算，也可以用加法验算。　(　　)
3. 一根旗杆高10厘米。　(　　)
4. 平行四边形的四条边都相等，四个角都是直角。　(　　)
5. 50根棒棒糖，至少拿出2根，剩下的才能平均分给8个小朋友。　(　　)

三、选择。（将正确答案的序号填在括号里。每题2分，共10分）

1. 小丽的体重约是35(　　)。
   ① 千克　② 克
2. 下面这3个数中，最接近700的是(　　)。
   ① 669　② 705　③ 723
3. 在一道有余数的除法算式中，除数是5，则余数不可能是(　　)。
   ① 2　② 4　③ 6
4. 1个和(　　)个同样重。
   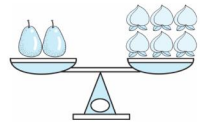
   ① 9
   ② 4
   ③ 3
5. 小军有163张画片，比小红多81张，两人一共有(　　)张画片。
   ① 407　② 245　③ 82

四、按要求做题。（共10分）

1. 按要求画图形。（每个小格的边长为1厘米）
   (1)画一个长是3厘米，宽是2厘米的长方形。(2分)
   (2)画一个边长是3厘米的正方形。(2分)
   (3)任意画一个平行四边形。(2分)

2. 根据时间画出钟表的时针和分针。(4分)
   　
   9:40　6:55

关注微信公众号“教辅资料站”获取更多学习资料

五、计算。(共 22 分)

1. 直接写得数。(6 分)

56 ÷ 7 =	70 + 50 =	530 + 220 =	86 − 68 =
37 ÷ 6 =	45 ÷ 9 =	58 + 19 =	900 + 70 =
32 + 28 =	8 × 3 =	48 ÷ 8 =	6 × 7 =

2. 列竖式计算,带★的要验算。(8 分)

★239 + 158 =　　★602 + 327 =

38 ÷ 5 =　　80 ÷ 9 =

3. 脱式计算。(8 分)

329 − (180 + 129)　　812 − 239 + 188

745 − 719 + 568　　169 − (39 − 23)

六、解决问题。(共 23 分)

1. 六一儿童节,学校组织一、二年级的学生看电影,一年级有 426 人,二年级比一年级少 137 人,二年级有多少人?两个年级一共有多少人?(6 分)

2. 花店运回 52 枝玫瑰花,每 6 枝放一个花瓶中,至少需要几个花瓶?(4 分)

3. 王红的妈妈带 900 元买家具布置新家。


75 元


125 元


680 元

(1)王红的妈妈带的钱够买这些家具吗?如果够,还剩多少元?(5 分)

(2)请你再提出一个数学问题并解决。(4 分)

4. 扎一个礼品盒用 6 分米彩带,5 米长的彩带最多够扎多少个礼品盒?(4 分)

关注微信公众号“教辅资料站”获取更多学习资料

第一单元跟踪检测卷

厘米、分米、米

一、1. 3　2. 米　分米　厘米
3. 5　11　4. 1　1
5. 2　3　68　3　5　40　4
6. (1)厘米　(2)米　厘米　(3)米
(4)分米　(5)米　(6)米
二、1. ×　2. ×　3. ×　4. ×
5. ×　【点拨】10 分米 = 100 厘米，100 厘米比 99 厘米长。
三、1. ③　2. ③　①　3. ③　4. ③
5. ③
6. ②　【点拨】一条绳子对折再对折是平均分成了 4 份，8 分米平均分成 4 份，每份是 2 分米，也就是 20 厘米。
四、1. <　>　=　<　>　>
2. 20 厘米 < 21 分米 < 2 米 20 厘米 < 2 米 3 分米
3. 略
4. 3　4　5　(1)蚂蚁　(2)5　(3)9
五、1. 21 + 34 + 45 = 100(厘米)
100 厘米 = 1 米
答：这条绳子原来长 100 厘米，合 1 米。
2. 4 米 = 400 厘米　380 厘米 < 400 厘米
答：这辆货车能顺利通过。
3. 3 米 = 30 分米　30 ÷ 5 = 6(分米)
答：每段绳子长 6 分米。
4. 1 米 = 100 厘米
100 − 70 = 30(厘米)
答：凳子高 30 厘米。
5. 3 × 4 = 12(分米)
答：原来的绳子长 12 分米。

附加题：能够直接测量的长度有 2 cm、3 cm、4 cm、5 cm、7 cm 和 9 cm。
【点拨】尺子上刻度 7 到 9 可以测量出 2 cm 的长度；刻度 4 到 7 可以测量出 3 cm 的长度；刻度 4 到 9 可以测量出 5 cm 的长度；4 cm、7 cm 和 9 cm 的长度可以从刻度 0 开始直接测量。

第二单元跟踪检测卷

有余数的除法

一、1. 3　3　2. 4　3　3. 5　35
4. 5　2
5. 6　1　7　1　9　1
6. 4　4　4　6　7　6
7. 5　【点拨】1 + 2 + 1 = 4(人)，22 ÷ 4 = 5(组)……2(人)。
8. 2　8
二、1. ×　2. √
3. ×
【点拨】余数可能是 1、2、3、4、5、6、7。
4. √
三、1. ②　2. ①
3. ①　【点拨】余数可能是 1、2、3、4、5、6，共 6 种可能。
4. ②
【点拨】40 ÷ 6 = 6(组)……4(个)。
四、1. 没有余数：12 ÷ 3、64 ÷ 8
余数是 2：38 ÷ 9、32 ÷ 6
余数是 3：38 ÷ 5、21 ÷ 6
2. ×　改正：$6\overline{)36}$　$\begin{array}{r}6\\36\\\hline0\end{array}$
×　改正：$7\overline{)64}$　$\begin{array}{r}9\\63\\\hline1\end{array}$
×　改正：$8\overline{)50}$　$\begin{array}{r}6\\48\\\hline2\end{array}$
3. 70 ÷ 8 = 8……6　$8\overline{)70}$　$\begin{array}{r}8\\64\\\hline6\end{array}$
21 ÷ 5 = 4……1　$5\overline{)21}$　$\begin{array}{r}4\\20\\\hline1\end{array}$
54 ÷ 7 = 7……5　$7\overline{)54}$　$\begin{array}{r}7\\49\\\hline5\end{array}$
64 ÷ 9 = 7……1　$9\overline{)64}$　$\begin{array}{r}7\\63\\\hline1\end{array}$
五、1. 19　4　4　3
2. 22　4　5　2
六、1. 22 ÷ 3 = 7(枝)……1(枝)
答：平均每个花瓶插 7 枝，还剩 1 枝。
2. 6 × 8 = 48(块)　48 + 5 = 53(块)
答：这袋糖一共有 53 块。
3. 3 米 = 30 分米　30 − 6 = 24(分米)
24 ÷ 4 = 6(分米)
答：平均每个中国结用彩带 6 分米。
4. (1)30 ÷ 4 = 7(辆)……2(名)
答：最多可以坐满 7 辆车，还剩 2 名同学。
(2)30 ÷ 9 = 3(辆)……3(名)
3 + 1 = 4(辆)
答：至少要租 4 辆。
(3)30 ÷ 9 = 3(辆)……3(名)
3 × 9 = 27(人)
27 + 4 = 31(人)　31 > 30
答：租 3 辆面包车和 1 辆小汽车。
(答案不唯一)
附加题：猴子：42 ÷ 8 = 5(个)……2(只)
5 + 1 = 6(个)
老虎：15 ÷ 2 = 7(个)……1(只)
7 + 1 = 8(个)
6 + 8 = 14(个)
答：该动物园至少应准备 14 个笼子。

第三单元跟踪检测卷

认识 1000 以内的数

一、1. 十　千　2. 10　10
3. 178　1　7　8　一百七十八
4. 百　1000　5. 888　890　99
6. <　>　<　<　<　>
7. 11　998　8. 100　200
9. 4　840　408　10. 598　508
二、1. √　2. ×　3. √　4. √　5. √
三、1. ②
2. ③　【点拨】599 和 600 相差 1，所以最接近 600。
3. ②
4. ③　【点拨】最小的三位数是 100，999 − 100 = 899，它比最小的三位数大 899。
四、1. 695　六百九十五
609　六百零九
464　四百六十四
2. (1)598　600　601　602
(2)288　292
(3)400　200
3. (1)809、972、889、1000
(2)889　(3)809、889、765
4. (1)0 ~ 7　(2)8、9　(3)0 ~ 4
(4)1 ~ 4
5. 

【点拨】“在 200 和 300 之间的数”答案不唯一。
6. (1)505　(2)550
五、1.

80 页	320 页	280 页
		√

2. 176 厘米 > 166 厘米 > 152 厘米
答：小东最高。

关注微信公众号“教辅资料站”获取更多学习资料

3. 飞机　轮船　火车

【点拨】从题意可知，火车的乘客人数最多，飞机和轮船的乘客人数比较接近，飞机的乘客人数比轮船的乘客人数少一些，因此飞机的乘客人数是300人，轮船的乘客人数是350人，火车的乘客人数是1000人。

附加题：亮亮家电脑的密码是567。

【点拨】这个三位数三个数字的和是18，百位上与个位上的数字和是12，由此可知十位上的数字是18－12＝6。十位上的数字比百位上的数字多1，所以百位上的数字是6－1＝5，那么个位上的数字是18－6－5＝7。因此密码为567。

第四单元跟踪检测卷

千克和克

一、1. 千克　克　千克

2. 7000　4　500　2　1300　1000　1

3. 1

4. 1千克　989克　890克　889克　800克

5. 900　2　400

二、1. ×　【点拨】体重应该是40千克。

2. √

3. ×　【点拨】“克”是质量单位，“米”是长度单位，两个单位无法比较。

4. ×　5. ×

三、1. ①　2. ②　3. ②

4. ③　【点拨】2只鸭子重2×3＝6(千克)，这也是3只鸡的质量，所以1只鸡重6÷3＝2(千克)。

5. ②　③

四、1. 100克　9千克　99千克　73克　200克　40千克

2. <　<　=　<　>　<

五、1. 克　千克　千克　克

2. 9　3. △　□　○

4. 

5. (1)狮子　300 kg　小兔　800 g

(2)狮子　马　小猪　小兔

六、1. 48÷6＝8(千克)

答：平均每个塑料袋里放8千克的苹果。

2. 46＋26＝72(千克)

72÷9＝8(千克)

答：每只小兔分到8千克。

3. 4×8＝32(千克)

12＋32＝44(千克)

44千克<50千克

答：这些水果能一次运完。

附加题：100－68＝32(克)　32＋32＝64(克)

100－64＝36(克)

答：杯子重36克。

【点拨】100克和68克相差32克，这32克就是一半水的质量，那么整杯水重64克，杯子重36克。

期中检测卷

一、1. 6　4　2. 8　2　3. 6　1

4. 三　百　7　六百七十八

5. 999　1

6. 米　厘米　千克　厘米　克　分米　米

7. 40　6000　37　9　200

8. >　=　>　=　=　>

9. 7　4　6

10. 4　38

【点拨】在30块～40块之间只有36块能平均分给9个小朋友，每人分4块，再加上多的2块，所以一共有38块。

二、1. ×　2. √　3. √

4. ×　【点拨】230中的“3”表示“3个十”，350中的“3”表示“3个百”，它们表示的意义不一样。

5. ×

三、1. ③　2. ①　3. ②　4. ②　5. ②

6. ①

四、1.

千位	百位	十位	个位
	△△△△△△△	○○○	□□□□□

【点拨】此题答案不唯一，可以用不同的图形来表示。

2. 3厘米

五、1. 56　2……3　9　100克　2……6　2……3　54　920克

2. 38÷8＝4……6　　65÷7＝9……2

$$8\overline{)38}\quad\begin{array}{r}4\\32\\\hline6\end{array}\qquad 7\overline{)65}\quad\begin{array}{r}9\\63\\\hline2\end{array}$$

50÷6＝8……2　　23÷5＝4……3

$$6\overline{)50}\quad\begin{array}{r}8\\48\\\hline2\end{array}\qquad 5\overline{)23}\quad\begin{array}{r}4\\20\\\hline3\end{array}$$

六、1. 56÷9＝6(条)……2(条)

答：每只小鸭分6条虫子，还剩2条虫子。

2.

580棵	100棵	560棵	600棵	950棵
小豪家		小青家		小华家

3. (1)30÷9＝3(次)……3(元)

答：能坐3次，还剩3元。

(2)30÷4＝7(次)……2(元)

答：能玩7次，还剩2元，剩下的钱还可以玩1次木马。

(3)30－5＝25(元)　9×2＝18(元)

18＋4＋3＝25(元)

答：可以玩2次摩天轮、1次碰碰车、1次蹦蹦床。

【点拨】此题答案不唯一，只要总钱数等于25元即可。

附加题：3＋4＋5＝12(厘米)

12－1－1＝10(厘米)

答：接成的长纸条的长度是10厘米。

【点拨】把三张纸条接成长纸条，共有两个接头，三张纸条的长度相加，每个接头多算了1厘米，所以要再减去两个1厘米，就是接成的长纸条的长度。

第五单元跟踪检测卷

四边形的认识

一、1. 4　4　长方形　正方形　平行四边形

2. 长方　正方

3. 平行四边

4. 6　3　5. 直

6. 3　【点拨】裁出的最大正方形的边长是2 cm，可以裁6÷2＝3(个)。

7. 4　6

二、1. ×　2. ×　3. ×　4. √

5. ×　【点拨】4个完全一样的正方形一定能拼成一个大的正方形。

关注微信公众号“教辅资料站”获取更多学习资料

三、1. ① 2. ③ 3. ③ 4. ①③

5. ① ③ ①③

四、1. 三角形:③⑤⑪⑫

正方形:①⑦⑩

长方形:⑥⑧⑨

平行四边形:②④

2. (1)4 2 12 (2)2 8

3. 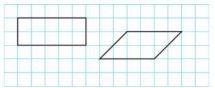

(平行四边形画法不唯一)

4. (1)3 5

(2)9

【点拨】(2+1)×(2+1)=9(个)。

5. 

有(3)个角 有(4)个角 有(5)个角

6. 像一只狐狸。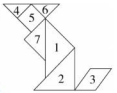

五、1. (1)略 (2)9 (3)3

2. 46-14-14=18(厘米)

18÷2=9(厘米)

答:平行四边形另外三条边长分别是14厘米、9厘米、9厘米。

3. 10÷2=5(厘米) 8÷2=4(厘米)

答:每个小长方形的长是10厘米,宽是4厘米或长是8厘米,宽是5厘米。

附加题:

第六单元跟踪检测卷

三位数加减三位数

一、1. 7 700 2. 356 254

3. 530 305 835 225

4. 加 减 350

5. (1)353 615-(187+75)=353

(2)27 385-(417-59)=27

6. 598

7. 16 【点拨】256+260=516(元),516-500=16(元)。

8. 812

812-349=463 812-463=349

389

389+157=546 546-389=157

二、1. × 2. ×

3. × 【点拨】最大的三位数是999,假如和是999,999-336=663,所以□里最大填6。

4. ×

5. × 【点拨】被减数减小100后是700,减数减小50后是300,700-300=400,差减小了50。

三、1. ③ 2. ③ 3. ② 4. ① 5. ①

四、1. 110 81 5 200 480 600 98 610

2. 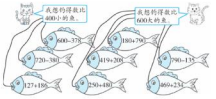

3. 349+563=912

$$\begin{array}{r} 349 \\ +\ 563 \\ \hline 912 \end{array}$$ 验算: $$\begin{array}{r} 912 \\ -\ 563 \\ \hline 349 \end{array}$$

546-157=389

$$\begin{array}{r} 546 \\ -\ 157 \\ \hline 389 \end{array}$$ 验算: $$\begin{array}{r} 157 \\ +\ 389 \\ \hline 546 \end{array}$$

4. 860-144-326 302-189+345

=716-326 =113+345

=390 =458

495+(946-538)

=495+408

=903

5. 764+203 815-498

=764+200+3 =815-500+2

=967 =317

623-174-126

=623-(174+126)

=623-300

=323

6. 4 9 0 8 0 1

五、1. 700-355-168=177(个)

答:还剩下177个气球。

2. (1)198+266=464(元)

答:买一个机器人和一架玩具飞机一共要用464元。

(2)288+168=456(元)

456元<500元

答:500元够。

(3)288+266=554(元)

554元>500元

答:500元钱不能买其中任意两种玩具。

【点拨】因为最贵的两种玩具的总价钱为288+266=554(元),超过了500元,所以500元钱不能买其中任意两种玩具。

附加题:683-378=305 305+240=545

答:正确的答案是545。

【点拨】( )+240=( ),( )+378=683,将错就错,683-378=305,305是一个正确的加数,正确的答案应该是305+240=545。

第七、八单元跟踪检测卷

时、分、秒 探索乐园

一、1. 秒 5秒 2. 1 60 15 15

3. 小丽 4. 7:40 4:30

5. 100 2 4 70 1 30 1 45

6. 2 6 7. 6 8. 4 4 9. 8

二、1. × 2. × 3. ×

4. √ 【点拨】三个小朋友如果每两人碰一次,一共要碰2+1=3(次)。

5. √

三、1. ② 2. ① 3. ① 4. ②

5. ③ 【点拨】由题意可知1个橘子重40克,那么1串葡萄的质量就是40+80=120(克)。

四、1. 6:33 4:54 10:35 7:30

2. 

3. (1)时 小时 (2)6 8 5

(3)3 4 2

4. (1)6 不怕辣 不辣怕 怕不辣

怕辣不 辣不怕 辣怕不

关注微信公众号“教辅资料站”获取更多学习资料

(2)可以组成4个不同的三位数,从小到大排列是205 < 250 < 502 < 520。

(3)6　①②③　①③②　②①③　②③①　③①②　③②①

五、1.(1)8时30分 - 20分钟 = 8时10分

答:他最晚8时10分从家出发。

(2)8时30分 + 2小时40分钟 = 11时10分

答:结束时的时间是11时10分。

2. 2 × 3 = 6(条)

答:小红从家到外婆家有6条路可走。

【点拨】从家出发走①号路到路口后有3条路可以选择,①—③,①—④,①—⑤;从家出发走②号路到路口后有3条路可以选择,②—③,②—④,②—⑤,共有6条路可走。

附加题:12时 - 9时 = 3小时

3小时 + 3小时 = 6小时

答:他们郊游用了6小时。

【点拨】根据题意可知,明明和爸爸是上午9时出发,下午3时回来的。

期末复习冲刺卷

模块过关卷(一)　数与代数

一、1. 332　304　534　2. 6　62

3. 309　308　310

4. 1,2或3

【点拨】在有余数的除法中,余数要比除数小。

5. < > > > = <

6.(1)250　300　(2)140　120　(3)430　530

7. 6　5　7　8. 300

二、1. × 【点拨】这个算式读作28除以6商4余4。

2. × 【点拨】个位上的"5"表示"5个一",十位上的"5"表示"5个十",百位上的"5"表示"5个百",虽然都是"5",但表示的意思不同。

3. √　4. ×

5. √ 【点拨】数字"2"在十位上,表示2个十,也就是20;数字"5"在个位上,表示5个一,也就是5,20是5的4倍。

三、1. ①　2. ②

3. ③ 【点拨】选项①中的3在个位上,表示3个一;选项②中的3在十位上,表示3个十;只有选项③中的3在百位上,表示3个百。

4. ①　5. ②

四、1. 260　58　800　3……1　960　34　60　9……1

2. 58 ÷ 9 = 6……4　　44 ÷ 8 = 5……4

$$\begin{array}{r} 6 \\ 9\overline{)58} \\ 54 \\ \hline 4 \end{array} \qquad \begin{array}{r} 5 \\ 8\overline{)44} \\ 40 \\ \hline 4 \end{array}$$

448 + 196 = 644

$$\begin{array}{r} 448 \\ +\ 196 \\ \hline 644 \end{array}$$

验算:

$$\begin{array}{r} 644 \\ -\ 448 \\ \hline 196 \end{array}$$

332 - 187 = 145

$$\begin{array}{r} 332 \\ -\ 187 \\ \hline 145 \end{array}$$

验算:

$$\begin{array}{r} 145 \\ +\ 187 \\ \hline 332 \end{array}$$

3. 365 - 198 + 257

= 167 + 257

= 424

569 - (306 + 188)

= 569 - 494

= 75

467 - 278 - 121

= 189 - 121

= 68

537 + 218 + 162

= 755 + 162

= 917

五、1.(1)38 ÷ 8 = 4(排)……6(人)

答:可以站4排,还剩下6人。

(2)38 ÷ 4 = 9(排)……2(人)

9 + 1 = 10(排)

答:至少要站10排。

2. 196 - 37 = 159(元)

196 + 159 = 355(元)

答:买一套衣服一共需要355元。

3. 428 + 399 = 827(元)

1000 - 827 = 173(元)

答:还剩173元。

4. 淘淘摘了多少个桃子?

240 + 38 = 278(个)

答:淘淘摘了278个桃子。

【点拨】此题答案不唯一。

附加题:600 + 224 = 824　824 - 324 = 500

答:正确的差是500。

期末复习冲刺卷

模块过关卷(二)　图形与几何、量的计量

一、1. 分米　5厘米

2. 米　厘米　千克　小时　分钟

3. 30　1　14　4　2000

4. 5　5

5. 12　6

【点拨】如图

,拼成的长方形的长是12厘米,宽是6厘米。

6.(1)2米　1米60厘米　1米5分米　30厘米

(2)800克　999克　1600克　2千克

7. 6

二、1. × 【点拨】直尺上从刻度0开始到刻度7是7厘米。

2. ×　3. ×　4. ×　5. √

三、1. ②　2. ②　3. ①　4. ③

5. ③ 【点拨】3个小朋友都有可能得第一,每个小朋友得第一时都会有两种比赛结果,共有6种情况。

四、1. 200克　70克　2千克　1千克

2.(1)3　1　2　2　(2)5　9　3

五、1. 

2. 2:15　2:30　　2:45

3. 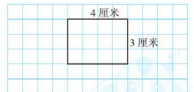

六、1. 175 - 135 = 40(厘米)

40厘米 = 4分米

答:爸爸比乐乐高40厘米,合4分米。

2. 4 × 2 = 8(千克)　8 ÷ 4 = 2(千克)

答:1只鸡重2千克。

3.(1)8时30分 - 8时 = 30分钟

答:早读是30分钟。

(2)9时20分 - 8时40分 = 40分钟

答:每节课的时间是40分钟。

(3)9:25同学们在做课间操。

10:50同学们在上第三节课。

附加题:丢掉的是1克的砝码。

关注微信公众号"教辅资料站"获取更多学习资料

期末复习冲刺卷

仿真模拟卷(一)

一、1. 499　4　9　9

2. 310　309　311　3. 7　31

4. (1)克　(2)米　(3)米　厘米　千克　(4)小时　分钟

5. 4　4　6. 80　250　124　2　600

7. 8　8　2

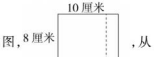

【点拨】如图,8厘米,从图中可以看出剩下的长方形的长是8厘米,宽是2厘米。

8. >　>　=　<

二、1. √　2. √　3. ×

4. ×　【点拨】在减法中,被减数也可能等于减数,当被减数和减数相等时,差为0。

5. ×

三、1. ③

2. ③　【点拨】百位上拨一颗上珠表示五百,十位上拨一颗下珠表示十,所以这个算盘表示的数为510。

3. ③　4. ②　5. ②

四、1.



2.



3. 2　4　6　12

【点拨】根据正方形四边相等,平行四边形和长方形对边相等这些特征来填写。

五、1. 500　6　70　6……3　28　110　200　4……6

2. 53÷7=7……4

$$\begin{array}{r} 7 \\ 7\overline{)53} \\ \underline{49} \\ 4 \end{array}$$

39+546=585

$$\begin{array}{r} 39 \\ +\ 546 \\ \hline 585 \end{array}$$ 验算:$$\begin{array}{r} 585 \\ -\ 39 \\ \hline 546 \end{array}$$

801−562=239

$$\begin{array}{r} 801 \\ -\ 562 \\ \hline 239 \end{array}$$ 验算:$$\begin{array}{r} 239 \\ +\ 562 \\ \hline 801 \end{array}$$

3. 258−117−58

=258−58−117

=200−117

=83

657−(146+245)

=657−391

=266

127+186+238

=313+238

=551

六、1. 28÷5=5(个)……3(个)

答:每个小朋友分5个,还剩3个。

2. 45÷6=7(次)……3(个)

7+1=8(次)

答:王华第8次才能进去。

【点拨】第7次进去以后,共进了42个人,王华排在第45个,所以要第8次才能进去。

3. (1)650+98=748(元)

990−748=242(元)

答:买一台台式饮水机需要242元。

(2)98+242=340(元)

340+578=918(元)

答:买一台电视机918元。

附加题:2　3

【点拨】两层货架上的质量相等,由图可知2袋面粉的质量等于1桶油的质量,即4千克,所以1袋面粉的质量就是4÷2=2(千克),进而求出1袋大米的质量为9−4−2=3(千克)。

期末复习冲刺卷

仿真模拟卷(二)

一、1. 906　905　907　2. 7

3. 185　1　40　4　5000

4. 形状　边的长短

5. 6　5　6　6. 30　7. 10　13

8. 6　【点拨】有3件上衣和2条裤子,共有3×2=6(种)搭配方式。

9. 485−365=120　120+365=485

【点拨】还可以写出365+120=485这个算式。

10. 6　257<275<527<572<725<752

二、1. √

2. ×

【点拨】45÷8=5(张)……5(人),5+1=6(张),至少需要6张桌子。

3. ×　4. √　5. √

三、1. ②　2. ③　3. ③　4. ①　5. ②

四、1. 220　200　245　9……2　968　112　0　9……7

2.

	7	0	8		9	2	4
+	1	9	7	−	5	5	6
	9	0	5		3	6	8

【点拨】从个位算起,按照加法竖式和减法竖式的计算方法依次推算出方框中的数。

3. 467−278−121　412−112+89

=189−121　=300+89

=68　=389

568−(218+182)

=568−400

=168

4. 6　30

【点拨】1个南瓜的质量=4个梨的质量,2个梨的质量=3个桃子的质量,所以1个南瓜的质量=6个桃子的质量。

1个西瓜的质量=8个苹果的质量,4个苹果的质量=5个梨的质量,所以1个西瓜的质量=10个梨的质量,3个西瓜的质量=30个梨的质量。

五、1. 4　5

2.



3.



【点拨】答案不唯一。

六、1. 827−435+374=766(辆)

答:现在有766辆自行车。

2. 6×9=54(支)　54+3=57(支)

答:李老师一共准备了57支铅笔。

关注微信公众号"教辅资料站"获取更多学习资料

3. 12时30分－8时＝4时30分

4时30分－40分＝3小时50分

答：路上一共开了3小时50分。

4. (1)660－162－237＝261(张)

答：三年级同学制作了261张爱心卡。

(2)237＋261＝498(张)

498－162＝336(张)

答：一年级同学制作的爱心卡比二、三年级的总和少336张。

附加题：3＋2＋1＝6(盘)

答：这四名小朋友共要下6盘棋。

【点拨】如图。



期末复习冲刺卷

石家庄市新华区期末测试卷

一、1. 879　878　880

2. 千克　分钟　分米　厘米

3. ＝　＜　＞　＞

4. 6　7　7　8　5. 7

6. 12　12　8

7. 56　9　65　650

8. 9:05　30　9:35

9. 519－212＝307

212＋307＝519

【点拨】还可以写出307＋212＝519这个算式。

二、略

三、1. ②　2. ②　3. ③　4. ③　5. ①

四、1. 62÷9＝6……8

$$\begin{array}{r} 6 \\ 9\overline{)62} \\ 54 \\ \hline 8 \end{array}$$

603－378＝225

$$\begin{array}{r} 603 \\ -\ 378 \\ \hline 225 \end{array}$$ 验算：$$\begin{array}{r} 225 \\ +\ 378 \\ \hline 603 \end{array}$$

2. 362＋279＋138

＝(362＋138)＋279

＝500＋279

＝779

794－235－165

＝794－(235＋165)

＝794－400

＝394

五、1. 如下图。　2. 如下图。



【点拨】所画的平行四边形不唯一。

3. 5厘米

六、1. 39÷6＝6(件)……3(粒)

答：可以钉6件衬衣。

2. 356＋350－300＝406(名)

答：这个学校四年级有学生406名。

3. 355－235＝120(厘米)

120厘米＝12分米

答：这两段相差120厘米，合12分米。

4. (1)500－125－236＝139(辆)

答：C类共享单车有139辆。

(2)7时15分＋25分钟＝7时40分

答：王老师7:40到达学校。

(3)C类共享单车比B类少多少辆？

236－139＝97(辆)

答：C类共享单车比B类少97辆。

【点拨】答案不唯一。

5. (1)120　60　(2)4　342

期末复习冲刺卷

石家庄市桥西区期末测试卷

一、1. 398　400　2. 三　865　8　6　5

3. 六百七十八　678

4. 4　4　5. 千克　克

6. 30　550　127　1　33

7. 12时　7时零5分　9时55分

8. (1)81　78　(2)350　400

二、1. ×　2. √　3. ×　4. ×　5. √

三、1. ①　2. ②　3. ③　4. ③　5. ②

四、1.

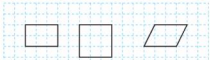

【点拨】所画的平行四边形不唯一。

2.



五、1. 8　120　750　18　6……1　5　77

970　60　24　6　42

2. 239＋158＝397

$$\begin{array}{r} 239 \\ +\ 158 \\ \hline 397 \end{array}$$ 验算：$$\begin{array}{r} 158 \\ +\ 239 \\ \hline 397 \end{array}$$

602＋327＝929

$$\begin{array}{r} 602 \\ +\ 327 \\ \hline 929 \end{array}$$ 验算：$$\begin{array}{r} 327 \\ +\ 602 \\ \hline 929 \end{array}$$

38÷5＝7……3　　80÷9＝8……8

$$\begin{array}{r} 7 \\ 5\overline{)38} \\ 35 \\ \hline 3 \end{array}$$　　$$\begin{array}{r} 8 \\ 9\overline{)80} \\ 72 \\ \hline 8 \end{array}$$

3. 329－(180＋129)

＝329－129－180

＝20

812－239＋188

＝(812＋188)－239

＝761

745－719＋568

＝26＋568

＝594

169－(39－23)

＝169－39＋23

＝153

六、1. 426－137＝289(人)

426＋289＝715(人)

答：二年级有289人，两个年级一共有715人。

2. 52÷6＝8(个)……4(枝)

8＋1＝9(个)

答：至少需要9个花瓶。

3. (1)75＋125＋680＝880(元)

880＜900　900－880＝20(元)

答：王红的妈妈带的钱够买这些家具。还剩20元。

(2)一张床比一把椅子贵多少元？

680－75＝605(元)

答：一张床比一把椅子贵605元。

【点拨】答案不唯一。

4. 5米＝50分米

50÷6＝8(个)……2(分米)

答：5米长的彩带最多够扎8个礼品盒。

关注微信公众号“教辅资料站”获取更多学习资料

好卷

小卷

- 周测 培优卷（10套）
- 专项能力 提升卷（7套）



二年级 数学

下（JJ 版）

关注微信公众号“教辅资料站”获取更多学习资料



目录

周测培优卷

厘米、分米、米 …… 1

有余数的除法(认识和笔算) …… 3

用有余数的除法解决问题 …… 5

认识1000以内的数 …… 7

千克和克 …… 9

四边形的认识 …… 11

三位数加减三位数及验算 …… 13

混合运算和解决问题 …… 15

时、分、秒 …… 17

探索乐园 …… 19

专项能力提升卷

有余数的除法 …… 21

单位的认识 …… 23

四边形的认识 …… 25

1000以内数的认识及计算 …… 27

实际应用 …… 29

常考易错突破卷(一) …… 31

常考易错突破卷(二) …… 33

参考答案及点拨 …… 35

关注微信公众号“教辅资料站”获取更多学习资料

周测培优卷 1
厘米、分米、米

班级_____ 姓名_____ 得分_____ 时间：40分钟 满分：100分

一、填空。（每空 2 分，共 42 分）

1. 观察直尺，填一填。

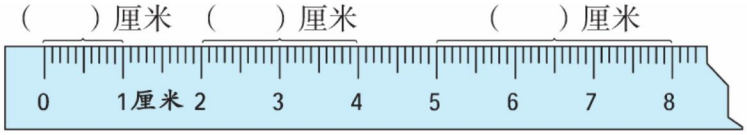

2. 我的手掌大约长（ ）厘米，实际测量是（ ）厘米。

3. 米可以用字母（ ）表示，分米可以用字母（ ）表示，厘米可以用字母（ ）表示。

4. 在（ ）里填上合适的单位。

课桌大约长 6（ ）。　　大树高约 12（ ）。

一支粉笔长约 8（ ）。　　食指宽约 1（ ）。

5. 1 米 =（ ）分米 =（ ）厘米　　9 米 =（ ）分米

500 厘米 =（ ）米　　180 厘米 =（ ）米（ ）分米

3 米 7 分米 =（ ）厘米

6. 红领巾最长的一条边比 1 米短 10 厘米，这条边长（ ）厘米，也就是（ ）分米。

二、下面的测量结果对吗？对的画“√”，错的画“×”。（6 分）

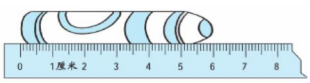

6 厘米（ ）



3 厘米（ ）

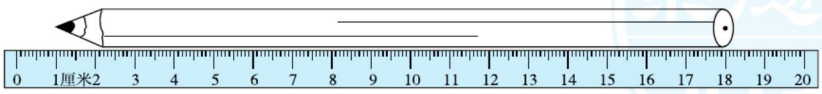

17 厘米（ ）

三、选择。（将正确答案的序号填在括号里。每题 3 分，共 9 分）

1. 爸爸的身高是 178（ ）。

① 米　　② 分米　　③ 厘米

关注微信公众号“教辅资料站”获取更多学习资料

2. 下面哪个选项最接近 1 厘米？（　　）

① 拇指指甲的宽度　② 10 张纸的厚度　③ 一本《新华字典》的厚度

3. 1 米长的绳子和 100 厘米长的铁丝相比，（　　）。

① 绳子长　② 一样长　③ 铁丝长

四、按要求做题。（共 29 分）

1. 算一算。（12 分）

50 厘米 + 50 厘米 = （　　）米　　1 米 − 20 厘米 = （　　）厘米

6 米 + 200 厘米 = （　　）米　　30 分米 − 2 米 = （　　）米

6 米 − 3 米 6 分米 = （　　）米（　　）分米

2. 排一排。（8 分）

98 厘米　　5 米　　100 厘米　　1 米 20 厘米

（　　）>（　　）>（　　）>（　　）

3. 画一条比 9 厘米短 5 厘米的线段。（3 分）

4. 量一量，填一填。（6 分）

（1）

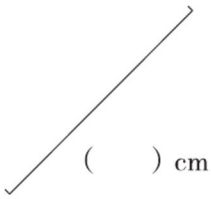

（2）

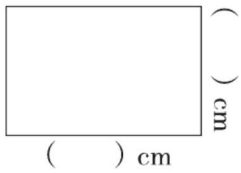

五、解决问题。（每题 7 分，共 14 分）

1. 把一根长 2 米的绳子平均分成 4 段，每段绳子长多少分米？

2. 丫丫家到学校有 75 米，有一天她上学走了 30 米，想起忘记带作业了，又回到家里拿作业，再到学校。丫丫上学一共走了多少米？

关注微信公众号“教辅资料站”获取更多学习资料

周测培优卷 2
有余数的除法（认识和笔算）

班级_____ 姓名_____ 得分_____ 时间：40分钟 满分：100分

一、填空。（每空 2 分，共 28 分）

1. $26 \div 4 = 6 \cdots\cdots 2$　读作：（　　）。

2. 写出下列各部分的名称。

$$\begin{array}{r} 3\cdots\cdots(\quad) \\ (\quad)\cdots\cdots 5\overline{)18}\cdots\cdots(\quad) \\ \underline{15} \\ 3\cdots\cdots(\quad) \end{array}$$

3. （　　）里最大能填几？

$4 \times (\quad) < 37$　　$22 > 9 \times (\quad)$　　$(\quad) \times 7 < 49$

$23 > 3 \times (\quad)$　　$8 \times (\quad) < 61$　　$42 > (\quad) \times 5$

4. 有 22 只小鸡，分别装在 5 个笼子里。平均每个笼子里装（　　）只，还剩下（　　）只。

5. 在算式□ $\div 3 = 7\cdots\cdots$△中，当余数最大时，被除数是（　　）。

二、判断。（对的在括号里画“√”，错的画“×”。每题 3 分，共 9 分）

1. 一个数除以 7，余数可能是 8、9。（　　）

2. 把 37 个苹果平均分成 5 份，每份都是 7 个苹果，还剩下 2 个苹果。（　　）

3. 在计算有余数的除法时，商一定大于余数。（　　）

三、选择。（将正确答案的序号填在括号里。每题 3 分，共 6 分）

1. 在算式□ $\div 6 =$ △……○中，余数最大是（　　）。

① 6　　② 5　　③ 4

2. 下面的竖式中，正确的是（　　）。

① $\begin{array}{r} 5 \\ 3\overline{)17} \\ \underline{15} \\ 2 \end{array}$　② $\begin{array}{r} 6 \\ 2\overline{)13} \\ \underline{12} \\ 1 \end{array}$　③ $\begin{array}{r} 5 \\ 3\overline{)18} \\ \underline{15} \\ 3 \end{array}$

四、按要求做题。（共 42 分）

1. 直接写出下面各题的商和余数。（12 分）

$16 \div 5 = (\quad)\cdots\cdots(\quad)$　　$33 \div 8 = (\quad)\cdots\cdots(\quad)$

$25 \div 6 = (\quad)\cdots\cdots(\quad)$　　$47 \div 7 = (\quad)\cdots\cdots(\quad)$

$57 \div 9 = (\quad)\cdots\cdots(\quad)$　　$25 \div 3 = (\quad)\cdots\cdots(\quad)$

关注微信公众号“教辅资料站”获取更多学习资料

2. 连一连。(12 分)



3. 用竖式计算。(18 分)

64 ÷ 9 =　　65 ÷ 7 =　　89 ÷ 9 =

77 ÷ 8 =　　59 ÷ 6 =　　80 ÷ 9 =

五、认真读题,填一填。(共 15 分)

1. (5 分)



平均分给 7 个小朋友,每个小朋友分得(　　)个,还剩(　　)个。

□ ○ □ = □(个)……□(个)

2. (10 分)



23 ÷ □ = □(个)……□(个)

23 ÷ □ = □(盘)……□(个)

关注微信公众号“教辅资料站”获取更多学习资料

周测培优卷 3
用有余数的除法解决问题

班级_____ 姓名_____ 得分_____ 时间：40分钟 满分：100分

一、填空。（每空 3 分，共 12 分）

1. 一个星期有 7 天，三月份有 31 天，合（　　）个星期零（　　）天。
2. 一支钢笔 8 元，50 元最多能买（　　）支钢笔。
3. 52 个乒乓球，每 9 个装一盒，至少需要（　　）个盒子才能装完。

二、选择。（把正确答案的序号填在括号里。每题 4 分，共 8 分）

1. 聪聪拿着 30 元购买 6 支圆珠笔，还需要再给售货员 6 元，那么每支圆珠笔（　　）元。

   ① 1　　② 5　　③ 6

2. 买一本日记本要 4 元钱，买一支铅笔要 7 角钱，买一本日记本的钱最多可以买（　　）支铅笔。

   ① 5　　② 6　　③ 7

三、解决问题。（共 64 分）

1. 小雪去超市买牛奶，32 元可以买多少盒？69 元可以买多少盒，还剩多少元？（9 分）



8 元/盒

2. 一块花布长 6 米，做一条裤子用 9 分米，这块花布最多可以做几条裤子？（9 分）

3. 小勇一个星期能看完这本书吗？（9 分）



60页



小勇

关注微信公众号“教辅资料站”获取更多学习资料

4. 李老师买了9支钢笔，付了55元钱，找回1元钱，这种钢笔每支多少钱？（9分）

5. 一盒糖，每次拿出7颗，拿了7次后，盒子中还剩3颗。这个盒子中原来一共有多少颗糖？（10分）

6. 一个旅游团有46人就餐，每桌最多坐6人。

（1）至少需要多少张桌子？（9分）

（2）怎样安排每桌就餐人数比较合理？（9分）

四、下面的图形各表示多少？想一想，填一填。（每题8分，共16分）

1. □+□+○+○=14　　□+□+○=11

□=（　　）　　○=（　　）

2. △+□=9　　△+△+□+□+□=25

△=（　　）　　□=（　　）

关注微信公众号“教辅资料站”获取更多学习资料

周测培优卷 4
认识1000以内的数

班级_____ 姓名_____ 得分_____ 时间：40分钟 满分：100分

一、填空。（每空1分，共25分）

1. 10个一是(　　)，10个十是(　　)，10个一百是(　　)。

2. 读一读，写一写。

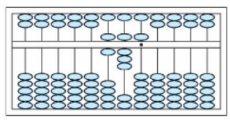

读作：_____
写作：_____

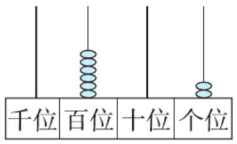

读作：_____
写作：_____

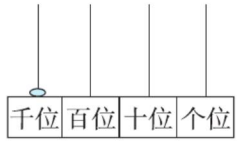

读作：_____
写作：_____

3. 最小的四位数是(　　)，它的最高位是(　　)位。

4. 一个数由3个百、5个十和4个一组成，这个数是(　　)。

5. 填上合适的数。

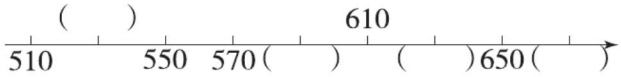

6. 在◯里填上“＞”“＜”或“＝”。

428 ◯ 372　　507 ◯ 570　　99 ◯ 199　　196 ◯ 169

703 ◯ 703　　100 ◯ 1000　　539 ◯ 780　　615 ◯ 399

7. 估一估。



我知道右边这摞纸约有150张，请你估一估左边这摞纸大约有(　　)张。

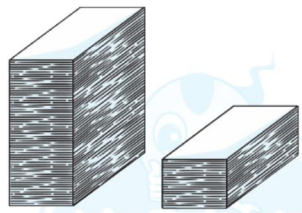

二、判断。（对的在括号里画“√”，错的画“×”。每题4分，共12分）

1. 比最大的三位数多1的数是1000。(　　)
2. 位数多的数一定比位数少的数大。(　　)
3. 578中百位上的5表示的数比个位上的8表示的数小。(　　)

三、选择。（将正确答案的序号填在括号里。每题4分，共12分）

1. 与450相邻的两个数是(　　)。

① 451、452　　② 439、441　　③ 449、451

关注微信公众号“教辅资料站”获取更多学习资料

2. 一个一个地数，1000 前面的第 2 个数是(　　)。

① 999　　② 1002　　③ 998

3. 两根同样长的绳子，第一根用去 202 米，第二根用去 199 米，两根绳子剩下的相比较，(　　)。

① 第一根长　　② 第二根长　　③ 无法比较

四、按要求做题。(共 26 分)

1. 用△、○、□分别代表 1 个百、1 个十和 1 个一，在数位表中画图形，分别表示出 513 和 808。(10 分)

千位	百位	十位	个位

513

千位	百位	十位	个位

808

2. 按要求用 0、3、8 三个数字组成三位数。(16 分)

(1)最大的三位数：_____。　(2)最小的三位数：_____。

(3)读零的三位数：_____。　(4)不读零的三位数：_____。

五、解决问题。(共 25 分)

1. 养殖场有 300 只鸭子，鸡的数量比鸭子少得多，鹅的数量比鸭子多一些。用○表示鸡可能的数量，用□表示鹅可能的数量，画在下面的表格中。(12 分)

325 只	270 只	105 只	421 只

2. 谁家的书最多？谁家的书最少？(13 分)

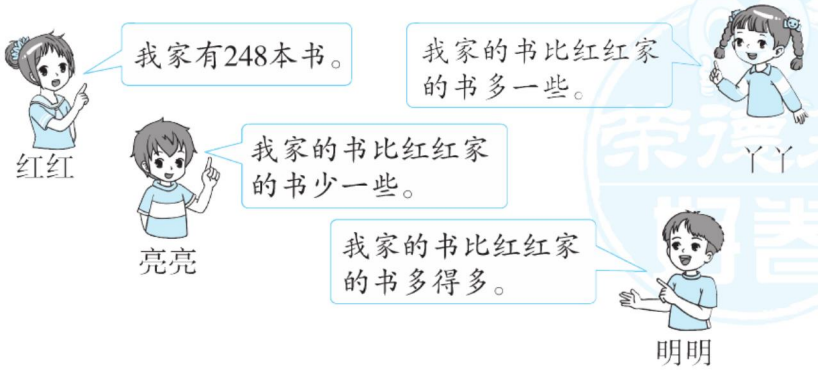

关注微信公众号“教辅资料站”获取更多学习资料

周测培优卷 5
千克和克

班级_____ 姓名_____ 得分_____ 时间：40分钟 满分：100分

一、填空。（每空 2 分，共 30 分）

1. 称较轻的物品时，通常用（　　）作单位。称较重的物品时，通常用（　　）作单位。

2. 1 千克 =（　　）克　　3000 克 =（　　）千克
   6 千克 =（　　）克　　5 千克 600 克 =（　　）克

3. 


   1 个南瓜和（　　）个苹果同样重，1 个西瓜和（　　）个苹果同样重，1 个南瓜和 1 个西瓜相比，（　　）重，（　　）轻。

4. 在（　　）里填上合适的质量单位。







400（　　）　30（　　）　130（　　）　5（　　）　600（　　）

二、判断。（对的在括号里画“√”，错的画“×”。每题 3 分，共 12 分）

1. 一根黄瓜大约重 8 千克。（　　）
2. 998 克 >1 千克。（　　）
3. 1 千克的棉花比 1000 克的铁轻。（　　）
4. 一袋盐重 500 克，两袋盐重 1 千克。（　　）

三、选择。（将正确答案的序号填在括号里。每空 4 分，共 16 分）

1. 一个鸡蛋重 50（　　），一袋大米重 60（　　）。
   ① 千克　　② 厘米　　③ 克

2. 千克用字母（　　）表示，克用字母（　　）表示。
   ① g　　② kg　　③ m

关注微信公众号“教辅资料站”获取更多学习资料

四、按要求做题。（每题 8 分，共 24 分）

1. 看图写出下列物品的质量。



一根黄瓜重（　　）。



一棵白菜重（　　）。

2.

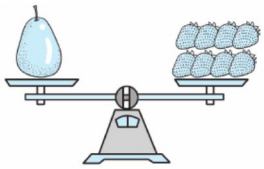

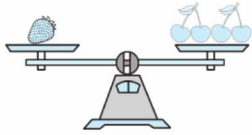

1 个  的质量 =（　　）个  的质量

1 个  的质量 =（　　）个  的质量

3. 请把下面这些水果和蔬菜的质量按从轻到重的顺序排列。



2 千克



300 克



3000 克



200 克

五、解决问题。（每题 9 分，共 18 分）

1. 小海买一个重 6 千克的西瓜，付了 30 元，找回 6 元，每千克西瓜多少元？

2. 够吃一个星期吗？





关注微信公众号“教辅资料站”获取更多学习资料

周测培优卷 6
四边形的认识

班级_____ 姓名_____ 得分_____ 时间：40分钟 满分：100分

一、填空。（第 5 题 12 分，其余每空 2 分，共 32 分）

1. 长方形有(　　)条长边，(　　)条短边。长方形长边的长叫做(　　)，短边的长叫做(　　)。
2. 长方形和正方形都有(　　)个(　　)角。
3. 正方形有(　　)条边相等，每条边的长叫做(　　)。
4. 生活中的(　　)、(　　)上都有平行四边形。
5. 把图形的序号填在括号里。

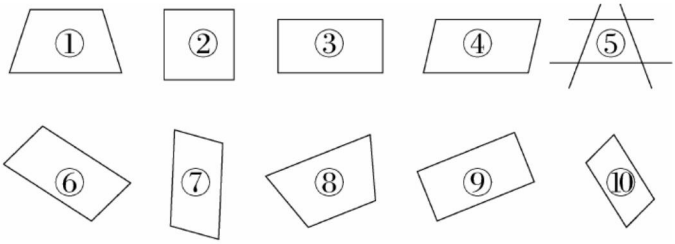

长方形有(　　)；正方形有(　　)；平行四边形有(　　)。

二、判断。（对的在括号里画“√”，错的画“×”。每题 3 分，共 15 分）

1. 由 4 条线段围成的图形不是正方形就是长方形。(　　)
2. 长方形的长一定比它的宽长。(　　)
3. 四条边都相等并且四个角都是直角的图形，一定是正方形。(　　)
4. 两个完全一样的直角三角形可以拼成一个长方形或一个正方形。(　　)
5. 把平行四边形对折一次后可以完全重合。(　　)

三、按要求做题。（共 28 分）

1. 量一量，填一填。（6 分）



长 =(　　)
宽 =(　　)

关注微信公众号“教辅资料站”获取更多学习资料

2. 下面的方格纸上每个小正方形的边长都是1厘米。



(1)画一个长是3厘米,宽是2厘米的长方形。(5分)

(2)画一个边长是4厘米的正方形。(5分)

3. 看图完成下面各题。

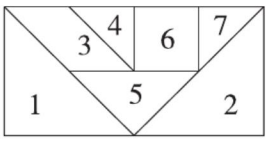

(1)这是用七巧板拼成的图形,其中(　　)号图形是正方形。(2分)

(2)3号图形是(　　),1号和2号图形可以拼成一个(　　)形。(6分)

(3)用七巧板中的一个正方形和两个小三角形拼一个平行四边形。(请画出草图)(4分)

四、在下面的长方形纸上剪下一个最大的正方形。(共16分)



1. 剪下的正方形的边长是(　　)厘米。(4分)
2. 剩下的图形是一个(　　)形。(4分)
3. 剩下的图形的长是(　　)厘米,宽是(　　)厘米。(8分)

五、柳林学校新修建了一个正方形的花坛,园丁师傅打算在每边都种6棵梧桐树,四个角都要分别种1棵,需要买多少棵树苗呢?(9分)

关注微信公众号“教辅资料站”获取更多学习资料

周测培优卷 7
三位数加减三位数及验算

班级_____ 姓名_____ 得分_____ 时间：40分钟 满分：100分

一、填空。（每空 1 分，共 21 分）

1. 69 加上（　　）得 312，比 734 多 187 的数是（　　）。
2. 笔算 329 + 286 时，（　　）数位要对齐，从（　　）位加起，哪一位上相加满（　　），要向前一位进（　　）。
3. 笔算减法时，哪一位不够减，从（　　）退 1，在本位加（　　）再减。
4. 最大的三位数是（　　），减去 878 的结果是（　　）。
5. 暑假期间，小明写了 228 个毛笔字，小玉写了 256 个毛笔字，他们俩一共写了（　　）个毛笔字。
6. 一本书有 460 页，军军第一周读了 145 页，还剩下（　　）页没有读。
7. 先计算下面两个算式的得数，再分别写出两个有关的算式。

309 + 287 = （　　）　　700 − 426 = （　　）

_____　　_____

_____　　_____

8. 用 9、0、7 可以组成的最大的三位数是（　　），最小的三位数是（　　），两个数相差（　　）。

二、判断。（对的在括号里画“√”，错的画“×”。每题 4 分，共 12 分）

1. 三位数减去三位数，差一定是三位数。（　　）
2. 最大的两位数与最小的三位数的和是 999。（　　）
3. 验算加法算式时，只能用减法验算。（　　）

三、计算。（共 36 分）

1. 直接写得数。（12 分）

300 − 170 =	60 + 190 =	140 − 90 =	530 − 60 =
440 + 70 =	460 − 80 =	30 + 510 =	880 − 90 =
363 − 150 =	100 − 45 =	29 + 30 =	100 − 20 =

2. 用竖式计算。（最后两题要验算）（24 分）

904 − 255 =　　194 + 312 =　　421 + 399 =

关注微信公众号“教辅资料站”获取更多学习资料

624 − 297 =　　326 + 278 =　　427 − 238 =

四、解决问题。(共 31 分)

1. 一捆电线长 760 米,电工叔叔施工用去了 172 米,现在还剩多少米?(9 分)

2. 下面是河北省部分旅游景点门票价格表。

旅游景点	保定白石山	北国水世界	吴桥杂技大世界
门票价格	135 元/人	210 元/人	144 元/人

(1)买一张吴桥杂技大世界的门票比买一张北国水世界的门票少花多少元?(7 分)

(2)买两张保定白石山的门票需要花费多少元?(7 分)

(3)你还能提出其他的数学问题吗?并解答。(8 分)

关注微信公众号“教辅资料站”获取更多学习资料

周测培优卷 8
混合运算和解决问题

班级_____ 姓名_____ 得分_____ 时间：40分钟 满分：100分

一、填空。（每空 2 分，共 20 分）

1. 计算 489 − 216 + 45 时，先算（　　）法，再算（　　）法，结果是（　　）；计算 489 −（216 + 45）时，先算（　　）法，再算（　　）法，结果是（　　）。

2. 先把算式补充完整，再把每组中的两个算式合并成一个综合算式。

（1）174 + 188 = 362　　500 − 362 = （　　）

_____

（2）305 − 176 = 129　　129 + 317 = （　　）

_____

二、选择。（将正确答案的序号填在括号里。每题 4 分，共 8 分）

1. △ + 160 + 247 = 716，△等于（　　）。

① 298　　② 299　　③ 309

2. 小军有 148 张画片，比小红多 76 张，两人一共有（　　）张画片。

① 224　　② 220　　③ 72

三、脱式计算。（30 分）

355 + 412 − 688　　476 −（127 + 176）　　412 + 233 + 78

900 − 415 − 285　　856 −（431 − 298）　　892 − 569 + 314

四、解决问题。（共 42 分）

1. 二年级收集废旧电池情况如下：

一班	二班	三班
268 节	365 节	295 节

三个班一共收集了多少节废旧电池？（7 分）

关注微信公众号“教辅资料站”获取更多学习资料

2. 学校原有 453 名学生，今年有 246 名学生毕业，又新招了 184 名学生，学校现在有多少名学生？（7 分）

3. 一卷胶带长 1000 米，第一次用去 396 米，第二次用去 504 米，还剩多少米？（用两种方法计算）（8 分）

4. 降价促销。

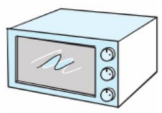

原价：450 元
现价：324 元



原价：280 元
现价：199 元



原价：346 元
现价：228 元

（1）算一算，哪种商品降低的钱数最多？（6 分）

（2）现在买这三种物品各一件，共需多少元？（6 分）

（3）请你提出一个数学问题并解答。（8 分）

关注微信公众号“教辅资料站”获取更多学习资料

周测培优卷 9
时、分、秒

班级_____ 姓名_____ 得分_____ 时间：40分钟 满分：100分

一、填空。（每空 1 分，共 25 分）

1. 我们学过的时间单位有（　　）、（　　）和（　　），其中（　　）是最小的时间单位。
2. 钟面上一共有（　　）个大格，每个大格有（　　）个小格，一共有（　　）个小格。
3. 钟面上，时针刚走过 1，分针指着 3，这时的时刻是（　　）时（　　）分。
4. 在钟面上，秒针走一圈是（　　）秒。
5. 妈妈每天早上 8 时上班，下午 5 时下班，中午吃饭休息 1 小时，妈妈每天工作（　　）小时。
6. 姐姐周日上午 9:40 开始收拾自己的房间，10:10 收拾完，她收拾了（　　）分钟。
7. 学校 8:10 上第一节课，40 分钟后下第一节课的时间是（　　）时（　　）分。
8. 在（　　）里填上合适的时间单位。
   （1）小红吃午饭需要 30（　　）。（2）丫丫做一道口算题用了 2（　　）。
   （3）小红跑 50 米约用 15（　　）。（4）放映一场电影需要 2（　　）30（　　）。
9. 在◯里填上“ > ”“ < ”或“ = ”。

   50 分◯1 小时　　半时◯40 分　　2 小时◯120 分

   300 分◯3 小时　　1 小时 15 分◯115 分　　6 分◯60 秒

二、按要求做题。（共 44 分）

1. 换算单位。（6 分）

   1 小时 = （　　）分　　2 分 30 秒 = （　　）秒

   90 分 = （　　）小时（　　）分　　75 秒 = （　　）分（　　）秒

2. 连一连。（8 分）






12时55分　　9时半　　12时　　7时零5分

关注微信公众号“教辅资料站”获取更多学习资料

3. 我会认钟表。(16 分)


___时___分


___时___分


___时___分


___时___分

4. 先画一画,再算一算。(14 分)

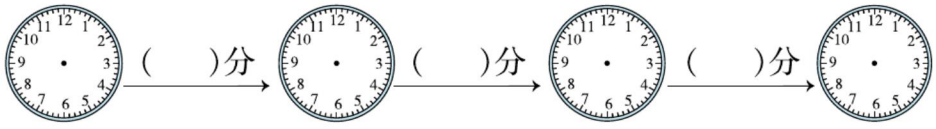

6:30起床　　6:45洗脸刷牙　　7:05吃早饭　　7:30上学

三、解决问题。(共 31 分)

1. 妞妞叠一个纸鹤花了 8 分钟,小小在 30 分钟内叠了 5 个,妞妞叠一个纸鹤所用的时间比小小叠一个纸鹤所用的时间多几分钟?(11 分)

2. 李师傅每分钟生产 8 个零件,从 8:00 到 8:09,李师傅一共生产了多少个零件?(10 分)

3. 想一想,妈妈完成这些事情,至少需要多少时间?(10 分)

洗菜和切菜	炒菜	淘米	煮饭	收拾房间
5 分钟	5 分钟	2 分钟	30 分钟	15 分钟

关注微信公众号“教辅资料站”获取更多学习资料

周测培优卷 10
探索乐园

班级_____ 姓名_____ 得分_____ 时间：40分钟 满分：100分

一、填空。（每空3分，共30分）

1. 如果用红、黄、蓝三种颜色分别给下面的图形涂色，那么一共有（　　）种涂法。



2. 小明、小亮和小强三名同学比赛100米跑，可能有哪几种结果？填一填。
   如果小明得第一，（　　），
   如果小亮得第一，（　　），
   如果小强得第一，（　　）。

3. 用3、0、8这三个数字，可以组成（　　）个不同的三位数，最大的是（　　），最小的是（　　），这两个数相差（　　）。

4. 3个茄子的质量等于1个萝卜的质量，（　　）个茄子的质量等于6个萝卜的质量。

5. 

   1个的质量等于（　　）个的质量。

二、判断。（对的在括号里画“√”，错的画“×”。每题3分，共9分）

1. 用数字4、0、9可以组成6个不同的两位数。（　　）
2. 有红、白、蓝3个球，任意拿出来2个，有6种不同的拿法。（　　）
3. 3个小朋友进行跳棋比赛，结果可能有3种。（　　）

三、选择。（将正确答案的序号填在括号里。每空4分，共16分）

1. 李红要选一套漂亮的衣服参加联欢会，共有（　　）种搭配方法。



① 3　　② 4　　③ 6

关注微信公众号“教辅资料站”获取更多学习资料

2. △+○=12，△=○+○+○，○=（　　）。

① 3　　② 4　　③ 9

3. 架子上摆着三种圆柱，三层中所放圆柱的总质量相同。

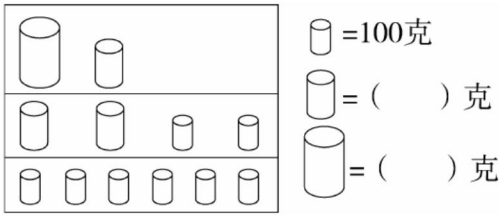

① 200　　② 300　　③ 400

四、解决问题。（每题 15 分，共 45 分）

1. 用 5、3、7 这三个数字可以组成多少个不同的两位数？先把它们写出来，再按从大到小的顺序排列起来。

2. 小明一家三口照相，如果排成一排，共有多少种不同的排法？把你的排法画下来。

3. 按题目中的条件换算。

买 1 千克肉的钱 $\xrightarrow{\text{可以买}}$ 2 千克鱼

买 1 千克鱼的钱 $\xrightarrow{\text{可以买}}$ 4 千克白菜

照这样计算，买 3 千克肉的钱可以买多少千克白菜？买 32 千克白菜的钱可以买多少千克肉？

关注微信公众号“教辅资料站”获取更多学习资料

专项能力提升卷1 有余数的除法

班级_____ 姓名_____ 得分_____ 时间：40分钟 满分：100分

一、填空。（第1题12分，其余每空2分，共24分）

1. 

（1）有20朵花，每个花瓶插（　　）朵，插了（　　）个花瓶，还剩（　　）朵。

20 ÷ □ = □（个）……□（朵）

（2）有20朵花，平均插在（　　）个花瓶里，每个花瓶插（　　）朵，还剩（　　）朵。

20 ÷ □ = □（朵）……□（朵）

2. 草原上的15只小兔要找房子住，如果每间房子住4只小兔，需要（　　）间房子，还剩（　　）只小兔没有房子住。

3. 有19根小棒，每4根摆成一个正方形，这些小棒可以摆成（　　）个正方形，还剩（　　）根小棒。

4. 学校买来43盆绿萝，至少拿出（　　）盆后，剩下的正好可以平均分给6个班。

5. 每根彩带长9分米，7米长的彩带最多能剪成（　　）根。

二、选择。（将正确答案的序号填在括号里。每题3分，共12分）

1. 把48个礼物平均装在相同的盒子中，不能有剩余，应选（　　）的盒子。

① 每盒装5个　　② 每盒装7个　　③ 每盒装8个

2. □ ÷7 =4……3，□里应填（　　）。

① 25　　② 30　　③ 31

3. 18除以5，余数是（　　）。

① 1　　② 2　　③ 3

4. 一个星期有7天，6月份有30天，是（　　）个星期零（　　）天。

① 4　　② 5　　③ 2

三、判断。（对的在括号里画“√”，错的画“×”。每题3分，共12分）

1. 一本笔记本4元，30元可以买8本笔记本。（　　）

2. 从24里面连续减去6个4得0。（　　）

关注微信公众号“教辅资料站”获取更多学习资料

3. 每张桌子可以坐 6 人，38 人至少需要 6 张桌子。（　　）

4. 有 36 个梨，每 8 个装一大盘，剩下的每 2 个装一小盘，可以装 4 大盘 2 小盘。（　　）

四、计算。（每题 12 分，共 24 分）

1. （　　）里最大能填几？

$4 \times (\quad) < 29$　　$(\quad) \times 6 < 44$　　$43 > (\quad) \times 8$

$60 > 7 \times (\quad)$　　$38 > (\quad) \times 5$　　$(\quad) \times 9 < 28$

2. 用竖式计算。

$57 \div 9 =$　　$32 \div 9 =$　　$40 \div 6 =$

五、解决问题。（每题 7 分，共 28 分）

1. 每行站 6 人，可以站几行，还剩下几人？

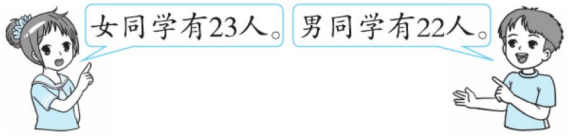

2. 兔妈妈买了 40 根萝卜，送给山羊阿姨 5 根后，剩下的平均分给 6 只小兔子。每只小兔子分几根，还剩几根？

3. 王老师有 61 张邮票，最少要加上多少张才可以平均分给 8 位小朋友？

4. 35 个同学去划船，每条小船最多坐 3 人，每条大船最多坐 9 人。先坐几条大船，不够坐满一条大船时再去坐小船，他们需要几条大船和几条小船？

关注微信公众号“教辅资料站”获取更多学习资料

专项能力提升卷2 单位的认识

班级_____ 姓名_____ 得分_____ 时间：40分钟 满分：100分

一、填空。（每空2分，共36分）

1. 在（　　）里填上合适的单位。

（1）教室黑板的长约是3（　　）。

（2）小明每天晚上9时睡觉，早上6时起床，每天睡9（　　）。

（3）妈妈的身高是17（　　），丽丽的身高是140（　　）。

（4）体育课上，凡凡跑400米用了1（　　）30（　　）。

（5）一个西瓜重3（　　），一枚1角硬币大约重1（　　）。

2. 5只公鸡重15千克，平均每只公鸡重（　　）千克。

3. 在钟面上，当分针指向12，时针指向（　　）或（　　）时，分针和时针形成的较小角是直角。

4. 在（　　）里填上合适的数。

1千克＝（　　）克　　5米－4分米＝（　　）分米

10米＝（　　）分米　　65分＝（　　）小时（　　）分

200克＋800克＝（　　）千克　　2米－5厘米＝（　　）厘米

二、判断。（对的在括号里画“√”，错的画“×”。每题2分，共8分）

1. 10分米比99厘米短。（　　）

2. 2袋盐重1千克。（　　）

3. 100米赛跑，小红用了14秒，小玉用了13秒，小红跑得快。（　　）

4. 从3:00到4:10，经过了70分钟。（　　）

三、选择。（将正确答案的序号填在括号里。每题3分，共15分）

1. 测量教室的长一般用（　　）作单位比较合适。

① 米　　② 分米　　③ 厘米

2. 一瓶面酱连瓶重1千克，面酱净重900克，瓶重（　　）。

① 100克　　② 100千克　　③ 1克

3. 把一根2米长的木料锯成长度相等的4段用来做桌子腿，做成的桌子的高大约是（　　）。

① 5厘米　　② 5分米　　③ 5米

关注微信公众号“教辅资料站”获取更多学习资料

4. 时针指在5和6之间，分针指向数字9，现在的时刻是(　　)。

① 6:45　　② 5:45　　③ 9:45

5. 第一节课8:10上课，第二节课9:00上课，课间休息10分钟，第一节课上了(　　)分钟。

① 50　　② 30　　③ 40

四、按要求做题。(共26分)

1. 量一量下面木条的长，再画出相同长度的线段。(8分)

　(　　)厘米

　(　　)厘米

2. 在钟面上画出时针和分针，并填出对应的时刻。(18分)

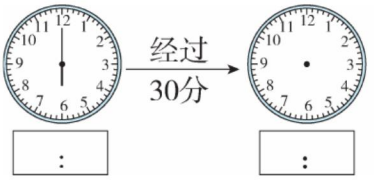

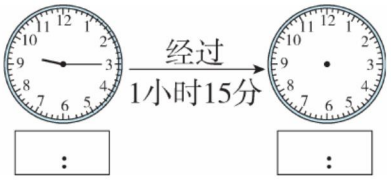

五、解决问题。(共15分)

1. 乐乐早上6:20起床，洗漱用了5分钟，吃早餐用了20分钟，整理书包用了3分钟，然后去上学，离家时是几时几分？(6分)

2. 一只鸭子重3千克，一只鹅和一只鸡一共重多少千克？(9分)



关注微信公众号“教辅资料站”获取更多学习资料

专项能力提升卷3 四边形的认识

班级_____ 姓名_____ 得分_____ 时间：40分钟 满分：100分

一、填空。（第3题8分，其余每空2分，共26分）

1. 数学书封面上有(　　)个直角，它是(　　)形。我见到的(　　)是正方形。
2. 平行四边形有(　　)条边，(　　)个角，(　　)边相等。
3. 分一分，填一填。

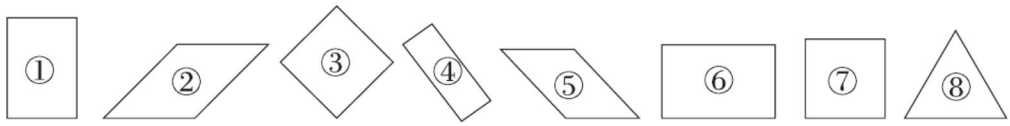

长方形　　正方形　　平行四边形

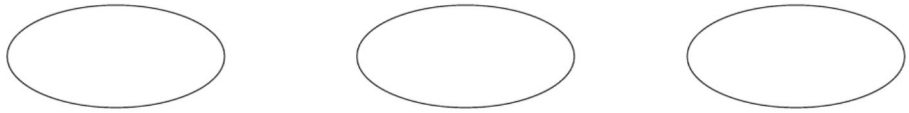

4. 在一个长18厘米、宽10厘米的长方形中，剪下的最大的正方形的边长是(　　)厘米，剩下的部分是(　　)形，在这部分中再剪一个最大的正方形，这个正方形的边长是(　　)厘米。

二、判断。（对的在括号里画“√”，错的画“×”。每题3分，共12分）

1. 两个正方形肯定可以拼成一个长方形。(　　)
2. 只有长方形、正方形和平行四边形是四边形。(　　)
3. 有两条边相等的四边形，一定是平行四边形。(　　)
4. 当长方形的长和宽相等时，这个长方形就是正方形。(　　)

三、选择。（将正确答案的序号填在括号里。每题3分，共12分）

1. 平行四边形的特征是(　　)。

① 对边平行且相等　　② 四个角为直角　　③ 四条边相等

2. 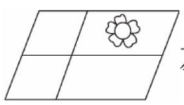左图中有(　　)个带✿的平行四边形。

① 3　　② 4　　③ 5

3. 三个边长是2 cm的正方形拼成一个长方形，拼成的长方形的长是(　　)。

① 4 cm　　② 5 cm　　③ 6 cm

关注微信公众号“教辅资料站”获取更多学习资料

4. 用两个完全一样的平行四边形可以拼成一个(　　)。

① 长方形　　② 正方形　　③ 平行四边形

四、按要求做题。(共 44 分)

1. 下图是一副七巧板,请你在右图中标出与左图相同的号码。(14 分)

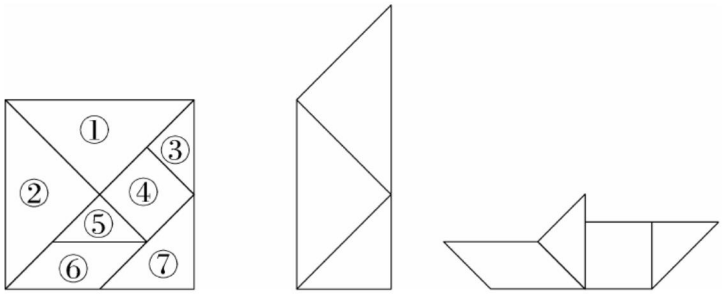

2. 数一数。(12 分)

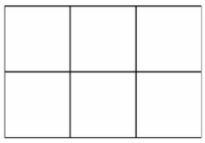

图中有(　　)个长方形,

(　　)个正方形。

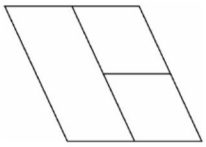

图中有(　　)个平行四边形。

3. 用下面的线段作为平行四边形的一条边,画出两个不同的平行四边形。(6 分)

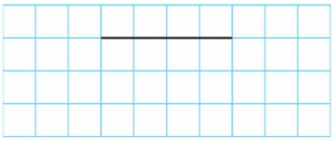

4. 按要求画一画。



①　　②　　③

(1)画一条线段,将长方形①分成两个完全一样的三角形。(4 分)

(2)画一条线段,将长方形②分成一个正方形和一个长方形。(4 分)

(3)画一条线段,将长方形③分成两个完全一样的小长方形。(4 分)

五、这是一个正方形水池,边长为 5 米,如果你绕着水池走一圈,要走多少米?(6 分)



关注微信公众号“教辅资料站”获取更多学习资料

专项能力提升卷4 1000以内数的认识及计算

班级_____ 姓名_____ 得分_____ 时间：40分钟 满分：100分

一、填空。（每空2分，共32分）

1. 十位是从右边起第(　　)位，百位是从右边起第(　　)位，从右边起第四位是(　　)位。
2. 九百二十九写作(　　)，前面的“9”表示(　　)，后面的“9”表示(　　)。
3. 300里面有(　　)个百，500里面有(　　)个十。
4. 丫丫在星期天看一本童话书，从196页看到了200页，她看了(　　)页。
5. 一个三位数，个位上的数是4，十位上的数是个位数字的2倍，百位上的数比十位上的数小3，这个三位数是(　　)。
6. 找规律填数。

(1)394，396，398，(　　)，(　　)。

(2)730，720，(　　)，(　　)，690，680。

(3)505，606，(　　)，(　　)，909。

二、选择。（将正确答案的序号填在括号里。每题3分，共12分）

1. 下面算盘表示的数比450大的是(　　)。

① 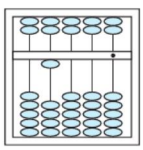　② 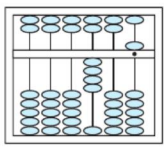　③ 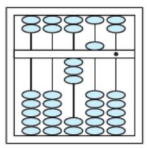

2. 妈妈到商场买衣服，衣服售价是188元，妈妈付给售货员200元，应找回(　　)元。

① 22　② 2　③ 12

3. 验算375－219＝156，下列验算方法错误的是(　　)。

① 375－156　② 219＋156　③ 375＋156

4. 下面比620少得多的数是(　　)。

① 810　② 619　③ 410

三、判断。（对的在括号里画“√”，错的画“×”。每题3分，共12分）

1. 在26后面添上一个0比在2和6中间添上一个0组成的数大。(　　)
2. 779－298＝779－300－2。(　　)

关注微信公众号“教辅资料站”获取更多学习资料

3. 三位数减去三位数，差一定是一位数。（　　）

4. 由 6、0、7 组成的最大三位数是 706。（　　）

四、计算。（每题 12 分，共 24 分）

1. 用竖式计算。（最后一个要验算）

257 + 583 =　　700 − 456 =　　603 − 328 =

2. 用你喜欢的方法计算。

143 + 589 − 356　　900 − 357 − 443　　459 − (125 + 58)

五、解决问题。（共 20 分）

1. 柳林小学举行冬季跳绳比赛，男生有 284 人参加，比女生少 96 人，全校一共有多少名学生参加跳绳比赛？（7 分）

2. 购物。



150 元



234 元



198 元



269 元

(1) 亮亮带了 500 元买了两种商品，还剩 100 多元，他可能买了哪两种商品？（6 分）

(2) 如果亮亮想要买一件上衣、一条裤子和一双轮滑鞋，600 元够吗？如果不够，还差多少元？（7 分）

关注微信公众号“教辅资料站”获取更多学习资料

专项能力提升卷5 实际应用

班级_____ 姓名_____ 得分_____ 时间：40分钟 满分：100分

一、填空。（每空3分，共21分）

1. 幼儿园有39个篮球，至少拿出(　　)个，剩下的才能平均分给7个班。
2. 妈妈8:05从家出发，走了15分钟到达单位，妈妈(　　)时(　　)分到达单位。
3. 姐姐的压岁钱是595元，弟弟的压岁钱是405元，他们俩一共有(　　)元压岁钱。
4. 月月买了一本50页的画报，每天看7页，她一个星期(　　)看完。（填“能”或“不能”）
5. 在一块长12米、宽8米的长方形试验田里圈出一块最大的正方形地种西红柿，这块正方形地的边长应该是(　　)米。
6. 哥哥、姐姐和我站成一排照相，变换我们的位置，可以照出(　　)张不同的照片。

二、选择。（将正确答案的序号填在括号里。每题5分，共20分）

1. 母亲节这一天，花店准备了340枝康乃馨，卖出了254枝，随后又进了60枝。花店里现在有多少枝康乃馨？下面列式正确的是(　　)。

   ① 340 + 254 − 60　　② 340 − (254 + 60)　　③ 340 − 254 + 60

2. 30名家长来学校开座谈会，每条长板凳上坐4人，至少需要(　　)条长板凳。

   ① 7　　② 8　　③ 9

3. 学校开运动会，操场一侧需要插34面彩旗，按3面红旗2面黄旗1面蓝旗的顺序排列，最后一面旗是(　　)。

   ① 红旗　　② 黄旗　　③ 蓝旗

4. 有44筐菜，每次运5筐，至少运(　　)次才能运完。

   ① 8　　② 9　　③ 10

关注微信公众号“教辅资料站”获取更多学习资料

三、解决问题。（共 59 分）

1. 一条绳子长 20 米，先剪去 3 米，再把剩下的绳子剪成 2 米一根的跳绳。能剪多少根跳绳，还剩多少米？（10 分）

2. 我们学校一年级有男生 208 人，女生 186 人，第一批入队的少先队员有 118 人，没有入队的有多少人？（10 分）

3. 蛋糕店扎一个八寸蛋糕盒要用 8 分米彩带，5 米长的彩带最多能扎几个这样的蛋糕盒？（10 分）

4. （17 分）

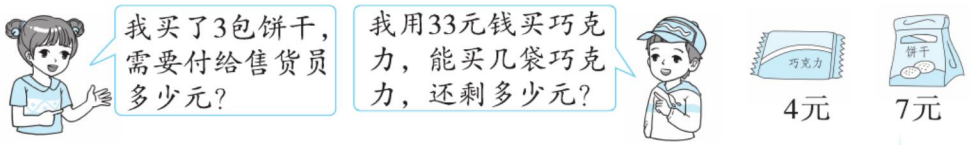

5. 想一想：王爷爷要借助 8 米长的围墙和 20 米长的篱笆围成一个长方形的鸡栏（如下图），请你计算出其他三条边的长度并标在图中。（12 分）



关注微信公众号“教辅资料站”获取更多学习资料

班级_____ 姓名_____ 得分_____ 时间：40分钟 满分：100分

一、填空。(每空2分,共28分)

1. 一根绳子用去80厘米后还剩20分米,原来这根绳子长(　　)分米。
2. 在(　　)里填上合适的单位。
   一根跳绳大约长3(　　)。
   一根筷子大约长2(　　)。
   一个文具盒的宽大约是6(　　)。
3. 20个十是(　　);605里面有(　　)个百和5个(　　)。
4. 有43个玉米,小猴每次可以运8个,如果全部运完,至少要运(　　)次。
5. 有3盒乒乓球,每盒6个,把这些乒乓球平均分给5个小朋友,每个小朋友分(　　)个,还剩(　　)个。
6. 876与最小的四位数相差(　　)。
7. 有26个桃子,最少拿走(　　)个,剩下的就可以使4个同学分的桃子一样多,每人分(　　)个。
8. 用9、6、4这三张数字卡片组成不同的三位数,再按照从大到小的顺序排列,排在第三位的数是(　　)。

二、选择。(将正确答案的序号填在括号里。每题3分,共15分)

1. 1千克鸡蛋大约有(　　)个。
   ① 8　　② 15　　③ 80
2. 1个篮球重(　　)。
   ① 300克　　② 30千克　　③ 500千克
3. 500克铁和1千克棉花相比,(　　)
   ① 铁重　　② 棉花重　　③ 一样重
4. 3双筷子和6个玻璃球同样重,1根筷子和(　　)个玻璃球同样重。
   ① 6　　② 2　　③ 1
5. ●■◆▲●■◆▲●■◆▲……按此顺序依次排列,第26个图形是(　　)。
   ① ▲　　② ■　　③ ◆

关注微信公众号“教辅资料站”获取更多学习资料

三、按要求做题。(共 34 分)

1. 连线。(16 分)

760	七百零六	6 个百和 7 个一
607	六百七十	7 个百和 6 个一
670	七百六十	6 个百和 7 个十
706	六百零七	7 个百和 6 个十

2. 用 4 个珠子,能在计数器上表示出多少个不同的三位数?请写下来。(10 分)

3. 画一画。(以所给的线段为边,分别画一个正方形和一个平行四边形)(8 分)

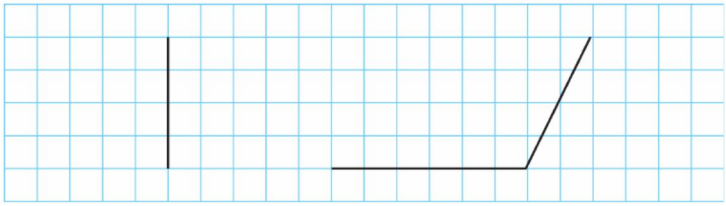

四、解决问题。(共 23 分)

1. (7 分)



24 盆

2. 一列火车从北京开往重庆经过石家庄站时,下车的乘客有 217 名,上车的乘客有 199 名。

(1)现在车上的乘客是增加了还是减少了?增加或减少了多少名乘客?(8 分)

(2)如果从石家庄站开车时车上有 845 名乘客。请问:火车进入石家庄火车站时,车上有多少名乘客?(8 分)

关注微信公众号“教辅资料站”获取更多学习资料

班级_____ 姓名_____ 得分_____ 时间：40分钟 满分：100分

一、填空。(每空1分,共23分)

1. 在□÷○=8……6中,○最小是(　　),此时□是(　　);在□÷8=6……○中,○最大是(　　),此时□是(　　)。
2. 887中右边的"8"在(　　)位上,表示(　　)个(　　)。
3. 在算盘的百位上拨1个上珠和3个下珠,十位上拨1个上珠,个位上拨4个下珠,这个数是(　　),读作(　　)。
4. 一桶水大约重15(　　),新闻联播的播放时间是30(　　)。
5. 半分钟,秒针要走(　　)个大格,也就是(　　)个小格,即(　　)秒。
6. 分针指着12,时针和分针成一条直线(时针和分针不重合),这时的时刻是(　　);分针指着6,时针在7和8的中间,这时的时刻是(　　);分针和时针都指着12表示的时刻是(　　)。
7. 从4、0、7、9中选出三个数字组成的最大三位数是(　　),最小三位数是(　　)。
8. 家乐和姐姐、妹妹排成一排照相,三个人有(　　)种不同的站法;如果让妹妹站在中间,照三个人的合影,可以照出(　　)张不同的照片。
9. 如图,将一个长方形沿虚线剪成2个完全相同的小长方形,小长方形的长为(　　)厘米,宽为(　　)厘米。

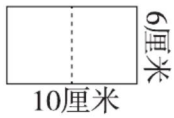

二、判断。(对的在括号里画"√",错的画"×"。每题3分,共18分)

1. 因为1米相当于100厘米,所以厘米要比米大。(　　)
2. 计算有余数的除法时,除数一定要比商小。(　　)
3. 一个数的最高位是千位,这个数是三位数。(　　)
4. 对边相等的四边形一定是长方形。(　　)
5. 从3:00到4:20,经过了80分。(　　)
6. 10时零5分可以写成10:5。(　　)

三、判断,对的在括号里画"√",错的画"×",并改正。(每题5分,共20分)

1. $\begin{array}{r} 268 \\ +275 \\ \hline 433 \end{array}$ 改正:　　(　　)

2. $\begin{array}{r} 728 \\ -146 \\ \hline 582 \end{array}$ 改正:　　(　　)

关注微信公众号"教辅资料站"获取更多学习资料

3. $\begin{array}{r} 7 \\ 6\overline{)50} \\ 42 \\ \hline 8 \end{array}$ 改正：

（　　）

4. $469-(123+258)$ 改正：

$=346+258$

$=604$ （　　）

四、解决问题。（共 39 分）

1. 一根绳子对折再对折后长 1 米，这根绳子全长多少米？（7 分）

2. 去公园划船。

（1）他们至少要租几条船？（7 分）



（2）如果每条船每小时的租金是 9 元，那么他们玩 2 小时需要多少元？（7 分）

3.



（1）妈妈买一台洗衣机和一台电风扇，共需要多少元？正好商场促销，满 500 元减 100 元，妈妈实际花了多少钱？（9 分）

（2）请你自己提出一个问题并解答。（9 分）

关注微信公众号“教辅资料站”获取更多学习资料

荣德基 好卷

参考答案及点拨

二年级 数学 下 JJ版 （小卷）

周测培优卷 1

厘米、分米、米

一、1. 1　2　3

2. 略

3. m　dm　cm

4. 分米　米　厘米　厘米

5. 10　100　90　5　1　8　370

6. 90　9

二、×　√　√

三、1. ③　2. ①

3. ②

【点拨】1 米 = 100 厘米，所以一样长。

四、1. 1　80　8　1　2　4

2. 5 米　1 米 20 厘米　100 厘米

98 厘米

3. 略

4. (1)4　(2)3　2

五、1. 2 米 = 20 分米

20 ÷ 4 = 5(分米)

答：每段绳子长 5 分米。

2. 30 + 30 = 60(米)

75 + 60 = 135(米)

答：丫丫上学一共走了 135 米。

周测培优卷 2

有余数的除法(认识和笔算)

一、1. 26 除以 4 商 6 余 2

2. 除数　商　被除数　余数

3. 9　2　6　7　7　8

4. 4　2

5. 23

二、1. ×　2. √　3. ×

三、1. ②　2. ①

四、1. 3　1　4　1　4　1

6　5　6　3　8　1

2.

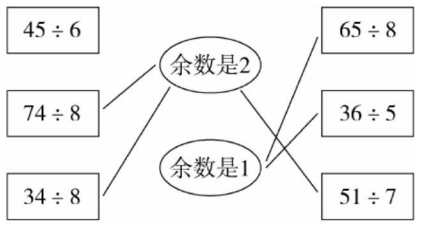

3. 64 ÷ 9 = 7……1　　65 ÷ 7 = 9……2

```
   7
9 64
  63
   1
```

```
   9
7 65
  63
   2
```

89 ÷ 9 = 9……8　　77 ÷ 8 = 9……5

```
   9
9 89
  81
   8
```

```
   9
8 77
  72
   5
```

59 ÷ 6 = 9……5　　80 ÷ 9 = 8……8

```
   9
6 59
  54
   5
```

```
   8
9 80
  72
   8
```


关注微信公众号“教辅资料站”获取更多学习资料

五、1. 2　1

15 ÷ 7 = 2(个)……1(个)

2. 23 ÷ 3 = 7(个)……2(个)

23 ÷ 7 = 3(盘)……2(个)

周测培优卷 3

用有余数的除法解决问题

一、1. 4　3

2. 6

3. 6

二、1. ③　2. ①

三、1. 32 ÷ 8 = 4(盒)

答:32 元可以买 4 盒。

69 ÷ 8 = 8(盒)……5(元)

答:69 元可以买 8 盒,还剩 5 元。

2. 6 米 = 60 分米

60 ÷ 9 = 6(条)……6(分米)

答:这块花布最多可以做 6 条裤子。

3. 方法一:8 × 7 = 56(页)

56 < 60

方法二:60 ÷ 8 = 7(天)……4(页)

7 + 1 = 8(天)　8 > 7

答:小勇一个星期不能看完这本书。

4. 55 − 1 = 54(元)

54 ÷ 9 = 6(元)

答:这种钢笔每支 6 元钱。

【点拨】李老师买钢笔花去的钱是付的钱减找回的钱。

5. 7 × 7 = 49(颗)

49 + 3 = 52(颗)

答:这个盒子中原来一共有 52 颗糖。

6. (1)46 ÷ 6 = 7(张)……4(人)

7 + 1 = 8(张)

答:至少需要 8 张桌子。

(2)6 张桌子每桌坐 6 人,2 张桌子每桌坐 5 人,正好 46 人。

(答案不唯一)

四、1. 4　3

【点拨】14 − 11 = 3,所以◯ = 3;11 − 3 = 8,8 ÷ 2 = 4,所以□ = 4。

2. 2　7

【点拨】25 − 9 × 2 = 7,所以□ = 7;9 − 7 = 2,所以△ = 2。

周测培优卷 4

认识 1000 以内的数

一、1. 十　一百　一千

2. 六百八十五　685

六百零二　602

一千　1000

3. 1000　千

4. 354

关注微信公众号“教辅资料站”获取更多学习资料

5. 530　590　630　670

6. >　<　<　>　=　<　<　>

7. 450

二、1. √　2. √　3. ×

三、1. ③　2. ③

3. ②　【点拨】两根同样长的绳子，用去的越短，剩下的越长。

四、1.

千位	百位	十位	个位
	△△△△△	○	□□□

千位	百位	十位	个位
	△△△△△		□□□□□

2. (1)830　(2)308　(3)308、803

(4)380、830

五、1.

325只	270只	105只	421只
□		○	

2. 明明家的书最多，亮亮家的书最少。

【点拨】丫丫家的书比红红家的书多一些，明明家的书比红红家的书多得多，所以明明家的书最多；亮亮家的书比红红家的书少一些，所以亮亮家的书最少。

周测培优卷5

千克和克

一、1. 克　千克

2. 1000　3　6000　5600

3. 7　8　西瓜　南瓜

4. 克　千克　克　千克　千克

二、1. ×　2. ×　3. ×　4. √

三、1. ③　①　2. ②　①

四、1. 100 g　2 kg

2. 8　4

3. 200克<300克<2千克<3000克

五、1. 30 − 6 = 24(元)

24 ÷ 6 = 4(元)

答：每千克西瓜4元。

2. 6 × 7 = 42(千克)

42千克<50千克

答：够吃一个星期。

周测培优卷6

四边形的认识

一、1. 2　2　长　宽

2. 4　直

3. 4　边长

4. 伸缩衣架　电动伸缩门

(答案不唯一)

5. ③⑨　②　④⑥⑦⑩

二、1. ×　2. √　3. √　4. √　5. ×

三、1. 4 cm　2 cm

2.

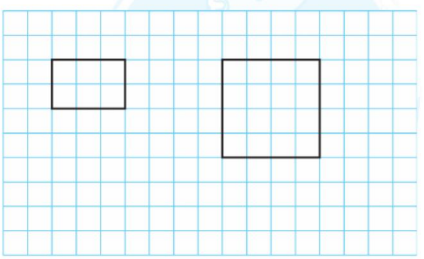

关注微信公众号“教辅资料站”获取更多学习资料

3. (1)6

(2)平行四边形　正方(此空答案不唯一)

(3)略

四、1. 8　2. 长方　3. 8　2

五、6 − 1 = 5(棵)　5 × 4 = 20(棵)

答:需要买 20 棵树苗。

【点拨】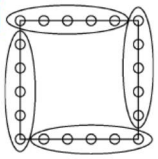

如图,每边只算一个角处的,不重复计算,这样需要买 5 × 4 = 20(棵)树苗。

周测培优卷 7

三位数加减三位数及验算

一、1. 243　921

2. 相同　个　十　1

3. 前一位　10

4. 999　121

5. 484　6. 315

7. 596

596 − 309 = 287

596 − 287 = 309

274

274 + 426 = 700

700 − 274 = 426

8. 970　709　261

二、1. ×　【点拨】三位数减去三位数,差可能是一位数、两位数或三位数。

2. ×　【点拨】99 + 100 = 199。

3. ×

三、1. 130　250　50　470　510　380　540

790　213　55　59　80

2. 904 − 255 = 649　　194 + 312 = 506

$$\begin{array}{r} 904 \\ -\ 255 \\ \hline 649 \end{array} \qquad \begin{array}{r} 194 \\ +\ 312 \\ \hline 506 \end{array}$$

421 + 399 = 820　　624 − 297 = 327

$$\begin{array}{r} 421 \\ +\ 399 \\ \hline 820 \end{array} \qquad \begin{array}{r} 624 \\ -\ 297 \\ \hline 327 \end{array}$$

326 + 278 = 604

$$\begin{array}{r} 326 \\ +\ 278 \\ \hline 604 \end{array}$$ 验算: $$\begin{array}{r} 604 \\ -\ 278 \\ \hline 326 \end{array}$$

427 − 238 = 189

$$\begin{array}{r} 427 \\ -\ 238 \\ \hline 189 \end{array}$$ 验算: $$\begin{array}{r} 189 \\ +\ 238 \\ \hline 427 \end{array}$$

四、1. 760 − 172 = 588(米)

答:现在还剩 588 米。

2. (1)210 − 144 = 66(元)

答:买一张吴桥杂技大世界的门票比买一张北国水世界的门票少花 66 元。

关注微信公众号“教辅资料站”获取更多学习资料

(2)135 + 135 = 270(元)

答:买两张保定白石山的门票需要花费270元。

(3)买一张北国水世界的门票比买一张保定白石山的门票多花多少元?

210 − 135 = 75(元)

答:买一张北国水世界的门票比买一张保定白石山的门票多花75元。

(答案不唯一)

周测培优卷8

混合运算和解决问题

一、1. 减　加　318

加　减　228

2. (1)138　500 − (174 + 188) = 138

(2)446　305 − 176 + 317 = 446

二、1. ③　2. ②

三、355 + 412 − 688 = 767 − 688 = 79

476 − (127 + 176) = 476 − 303 = 173

412 + 233 + 78 = 645 + 78 = 723

900 − 415 − 285 = 900 − (415 + 285) = 900 − 700 = 200

856 − (431 − 298) = 856 − 133 = 723

892 − 569 + 314 = 323 + 314 = 637

四、1. 268 + 365 + 295 = 928(节)

答:三个班一共收集了928节废旧电池。

2. 453 − 246 + 184 = 391(名)

答:学校现在有391名学生。

3. 方法一:1000 − 396 − 504 = 100(米)

方法二:1000 − (396 + 504) = 100(米)

答:还剩100米。

【点拨】求还剩的,可以列连减算式,也可以用总长度减去两次用去的长度和。

4. (1)450 − 324 = 126(元)

280 − 199 = 81(元)

346 − 228 = 118(元)

126 > 118 > 81

答:微波炉降低的钱数最多。

(2)324 + 199 + 228 = 751(元)

答:共需751元。

(3)略

周测培优卷9

时、分、秒

一、1. 时　分　秒　秒　2. 12　5　60

关注微信公众号“教辅资料站”获取更多学习资料

3. 1　15　4. 60

5. 8　6. 30　7. 8　50

8. (1)分　(2)秒　(3)秒

(4)小时　分

9. <　<　=　>　<　>

二、1. 60　150　1　30　1　15

2. 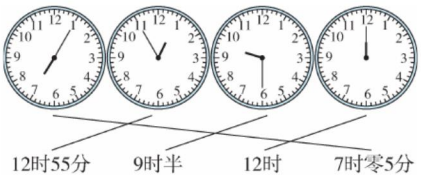

3. 8时30分　8:30　3时40分　3:40

12时50分　12:50　9时15分　9:15

4. 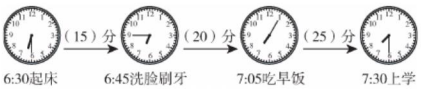

三、1. 30÷5=6(分钟)

8-6=2(分钟)

答:妞妞叠一个纸鹤所用的时间比小小叠一个纸鹤所用的时间多2分钟。

2. 8时零9分-8时=9分

8×9=72(个)

答:李师傅一共生产了72个零件。

3. 至少需要32分钟。

周测培优卷10

探索乐园

一、1. 6

2. 可能小亮第二、小强第三;也可能小强第二、小亮第三

可能小明第二、小强第三;也可能小强第二、小明第三

可能小明第二、小亮第三;也可能小亮第二、小明第三

3. 4　830　308　522

4. 18　5. 12

二、1. ×　【点拨】只能组成4个不同的两位数,即40、49、94、90。

2. ×　3. ×

三、1. ②　【点拨】共有2×2=4(种)搭配方法。

2. ①

3. ①　③　【点拨】根据第三层可知,每层总质量为600克,那么从第二层可以得出一个中等大小的圆柱质量为200克,从第一层可以得出一个大圆柱的质量为400克。

四、1. 可以组成6个不同的两位数,分别是:53、57、35、37、75、73,从大到小排列是75>73>57>53>37>35。

2. 爸爸用△表示,妈妈用○表示,小明用□表示。

共有6种不同的排法:

关注微信公众号"教辅资料站"获取更多学习资料

○△□、□△○、△○□、△□○、○□△、□○△。

3. 3×2×4=24(千克)

答:买3千克肉的钱可以买24千克白菜。

32÷4=8(千克)

8÷2=4(千克)

答:买32千克白菜的钱可以买4千克肉。

期末复习冲刺卷

专项能力提升卷1　有余数的除法

一、1. (1)6　3　2

20÷6=3(个)……2(朵)

(2)3　6　2

20÷3=6(朵)……2(朵)

2. 3　3

3. 4　3

4. 1

5. 7　【点拨】7米=70分米,70÷9=7(根)……7(分米),所以最多能剪成7根。

二、1. ③　2. ③　3. ③

4. ①　③

【点拨】30÷7=4(个)……2(天)。

三、1. ×　2. √

3. ×　【点拨】38÷6=6(张)……2(人),6+1=7(张),至少需要7张桌子。

4. √

四、1. 7　7　5　8　7　3

2. 57÷9=6……3

$$\begin{array}{r} 6 \\ 9\overline{)57} \\ \underline{54} \\ 3 \end{array}$$

32÷9=3……5

$$\begin{array}{r} 3 \\ 9\overline{)32} \\ \underline{27} \\ 5 \end{array}$$

40÷6=6……4

$$\begin{array}{r} 6 \\ 6\overline{)40} \\ \underline{36} \\ 4 \end{array}$$

五、1. 23+22=45(人)

45÷6=7(行)……3(人)

答:可以站7行,还剩下3人。

2. 40−5=35(根)

35÷6=5(根)……5(根)

答:每只小兔子分5根,还剩5根。

3. 61÷8=7(张)……5(张)

8−5=3(张)

答:最少要加上3张才可以平均分给8位小朋友。

4. 35÷9=3(条)……8(人)

关注微信公众号“教辅资料站”获取更多学习资料

8 ÷ 3 = 2(条)……2(人)

2 + 1 = 3(条)

答:他们需要 3 条大船和 3 条小船。

期末复习冲刺卷

专项能力提升卷 2　单位的认识

一、1. (1)米　(2)小时

(3)分米　厘米

(4)分　秒

(5)千克　克

2. 3　3. 3　9

4. 1000　46　100　1　5　1　195

二、1. ×　【点拨】10 分米 = 100 厘米,100 厘米比 99 厘米长。

2. √

3. ×　【点拨】同样的路程,谁用的时间少谁就跑得快。

4. √

三、1. ①　2. ①

3. ②　【点拨】2 米 = 20 分米,20 ÷ 4 = 5(分米)。

4. ②

5. ③　【点拨】9 时 − 8 时 10 分 = 50 分,50 分 − 10 分 = 40 分。

四、1. 画图略　3　6

2.

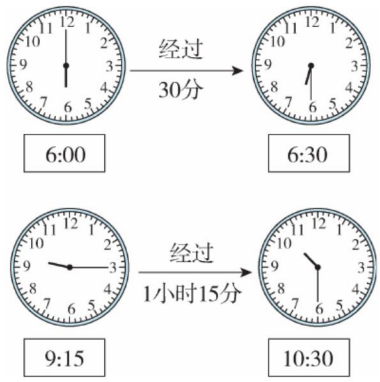

五、1. 5 + 20 + 3 = 28(分)

6 时 20 分 + 28 分 = 6 时 48 分

答:离家时是 6 时 48 分。

2. 3 × 2 = 6(千克)

6 ÷ 3 = 2(千克)

6 + 2 = 8(千克)

答:一只鹅和一只鸡一共重 8 千克。

期末复习冲刺卷

专项能力提升卷 3　四边形的认识

一、1. 4　长方　魔方的面　(此空答案不唯一)

2. 4　4　对

3. ①、④、⑥　③、⑦　②、⑤

4. 10　长方　8

二、1. ×　2. ×　3. ×　4. √

三、1. ①　2. ②　3. ③　4. ③

四、1. 略

2. 10　8　5

关注微信公众号“教辅资料站”获取更多学习资料

3.

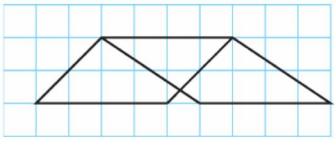

【点拨】所画平行四边形不唯一。

4. (1)

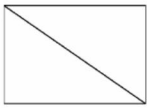

①

(2)



②

(3)



③

【点拨】所画的线段不唯一。

五、5×4=20(米)　答:要走20米。

期末复习冲刺卷

专项能力提升卷4　1000以内数的认识及计算

一、1. 二　三　千

2. 929　9个百　9个一　3. 3　50

4. 5

5. 584　【点拨】根据题意可知,十位上的数是4的2倍,是8;百位上的数比8小3,是5,所以这个三位数是584。

6. (1)400　402　(2)710　700

(3)707　808

二、1. ①　2. ③　3. ③　4. ③

三、1. √

2. ×　【点拨】779−298=779−300+2,把298看作300,多减了2要再加上2。

3. ×　4. ×

四、1. 257+583=840　　700−456=244

$$\begin{array}{r} 257 \\ +\ 583 \\ \hline 840 \end{array} \qquad \begin{array}{r} 700 \\ -\ 456 \\ \hline 244 \end{array}$$

603−328=275

$$\begin{array}{r} 603 \\ -\ 328 \\ \hline 275 \end{array}$$ 验算: $$\begin{array}{r} 275 \\ +\ 328 \\ \hline 603 \end{array}$$

2. 143+589−356

=732−356

=376

900−357−443

=900−(357+443)

=900−800

=100

459−(125+58)

=459−183

=276

五、1. 284+96=380(人)

284+380=664(名)

答:全校一共有664名学生参加跳绳比赛。

2. (1)150+234=384(元)

答:他可能买了一条裤子和一双轮滑鞋。

关注微信公众号“教辅资料站”获取更多学习资料

【点拨】此题答案不唯一，只要两种商品总价为三百多元即可。

(2)269 + 150 + 234 = 653(元)

653 > 600

653 − 600 = 53(元)

答：600 元不够，还差 53 元。

期末复习冲刺卷

专项能力提升卷 5　实际应用

一、1. 4　2. 8　20　3. 1000

4. 不能　【点拨】7 × 7 = 49(页)，49 < 50，所以一个星期不能看完。

5. 8　6. 6

二、1. ③　2. ②

3. ②　【点拨】3 + 2 + 1 = 6(面)，34 ÷ 6 = 5(组)……4(面)，6 面彩旗为一组，34 面彩旗中有 5 组余 4 面，这 4 面从头依次为红、红、红、黄，所以第 34 面彩旗为黄色。

4. ②

三、1. 20 − 3 = 17(米)

17 ÷ 2 = 8(根)……1(米)

答：能剪 8 根跳绳，还剩 1 米。

2. 208 + 186 = 394(人)

394 − 118 = 276(人)

答：没有入队的有 276 人。

3. 5 米 = 50 分米

50 ÷ 8 = 6(个)……2(分米)

答：5 米长的彩带最多能扎 6 个这样的蛋糕盒。

4. 3 × 7 = 21(元)

答：需要付给售货员 21 元。

33 ÷ 4 = 8(袋)……1(元)

答：能买 8 袋巧克力，还剩 1 元。

5. 长：8 米

宽：20 − 8 = 12(米)

12 ÷ 2 = 6(米)

从左到右依次填：6 米　8 米　6 米

【点拨】长方形的对边相等，因此围墙对面的边长是 8 米，20 − 8 = 12(米)，12 米是 2 个宽的长，因此 1 个宽是 12 ÷ 2 = 6(米)。

期末复习冲刺卷

专项能力提升卷 6　常考易错突破卷(一)

一、1. 28

【点拨】80 厘米 = 8 分米，20 + 8 = 28(分米)。

2. 米　分米　厘米

3. 200　6　一

【点拨】10 个十是 100，20 个十是 200。

关注微信公众号“教辅资料站”获取更多学习资料

4. 6

5. 3　3　【点拨】6 × 3 = 18(个),18 ÷ 5 = 3(个)……3(个)。

6. 124

7. 2　6

8. 694

二、1. ②　2. ①

3. ②　【点拨】500 克 < 1 千克,所以棉花重。

4. ③　【点拨】3 双筷子也就是 6 根筷子,所以 1 根筷子和 1 个玻璃球同样重。

5. ②　【点拨】26 ÷ 4 = 6(组)……2(个),从头依次数,第 2 个图形是■。

三、1.

760	七百零六	6个百和7个一
607	六百七十	7个百和6个一
670	七百六十	6个百和7个十
706	六百零七	7个百和6个十

2. 能表示出 10 个不同的三位数,分别是 103、130、112、121、220、202、211、301、310、400。

3. 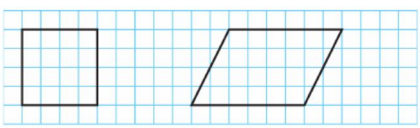

四、1. 24 ÷ 5 = 4(个)……4(盆)

答:可以放 4 个班,还余 4 盆。

2. (1)217 > 199　217 − 199 = 18(名)

答:现在车上的乘客是减少了,减少了 18 名乘客。

(2)845 − 199 + 217 = 863(名)

答:车上有 863 名乘客。

期末复习冲刺卷

专项能力提升卷 7　常考易错突破卷(二)

一、1. 7　62　7　55

【点拨】除数最小比余数 6 大 1,所以○最小是 7,此时□是 7 × 8 + 6 = 62;余数最大比除数小 1,所以○最大是 7,此时□是 6 × 8 + 7 = 55。

2. 十　8　十

3. 854　八百五十四

【点拨】在算盘上,一个上珠表示 5,一个下珠表示 1。

4. 千克　分钟

5. 6　30　30

【点拨】半分钟是 30 秒,1 个大格是 5 秒,所以秒针要走 6 个大格;1 个大格有 5 个小格,5 × 6 = 30(个)小格。

6. 6 时　7 时半(或 7 时 30 分)　12 时

7. 974　407

8. 6　2

关注微信公众号“教辅资料站”获取更多学习资料

【点拨】妹妹站在中间，家乐和姐姐可以分别站在两边，这样可以照出 2 种不同的照片；家乐在中间，也可以照出 2 种不同的照片；同样，姐姐在中间，还可以照出 2 种不同的照片，所以三个人共有 6 种不同的站法。

9. 6　5

二、1. ×

2. ×

【点拨】计算有余数的除法时，余数一定要比除数小。

3. ×

【点拨】千位是从右边数起的第四位，所以一个数的最高位是千位的话，这个数是四位数。

4. ×

【点拨】正方形、平行四边形的对边也相等。

5. √

6. ×

【点拨】10 时零 5 分可以写成 10:05。

三、1. ×
$$\begin{array}{r} 268 \\ +\ 275 \\ \hline 543 \end{array}$$

2. √

3. ×
$$\begin{array}{r} 8 \\ 6\overline{)50} \\ 48 \\ \hline 2 \end{array}$$

4. ×　469 − (123 + 258)

= 469 − 381

= 88

【点拨】第 1 小题错误原因是十位和百位在计算时都没有加进位 1；第 3 小题错误原因是余数比除数大了，说明商小了；第 4 小题运算顺序错了，在混合运算中，有括号的要先算括号里面的，再算括号外面的。

四、1. 1 × 4 = 4(米)

答：这根绳子全长 4 米。

【点拨】一根绳子对折一次是 2 段，对折两次是 4 段，所以全长应该是 4 个 1 米，是 4 米。

2. (1)51 ÷ 6 = 8(条)……3(人)

8 + 1 = 9(条)

答：他们至少要租 9 条船。

(2)9 × 9 = 81(元)

81 + 81 = 162(元)

答：他们玩 2 小时需要 162 元。

3. (1)400 + 150 = 550(元)

答：共需要 550 元。

550 − 100 = 450(元)

答：妈妈实际花了 450 元。

(2)略

关注微信公众号“教辅资料站”获取更多学习资料