主　　编：荣德基
本册主编：刘洪志



二年级 数学（下）

（BJ 版）



吉林教育出版社



目录

同步跟踪检测卷

大卷 单元卷 · 模块卷 · 仿真卷

单元检测卷 （7套）

第一单元跟踪检测卷 …… 1
第二、三单元跟踪检测卷 …… 5
第四单元跟踪检测卷 …… 9
期中跟踪检测卷 …… 13
第五单元跟踪检测卷 …… 17
第六、七单元跟踪检测卷 …… 21
第八、九、十单元跟踪检测卷 …… 25

期末复习冲刺卷

模块过关卷 （2套）

数与代数　统计 …… 29
图形与几何 …… 33

仿真模拟卷 （4套）

仿真模拟卷（一） …… 37
仿真模拟卷（二） …… 41
仿真模拟卷（三） …… 45
仿真模拟卷（四） …… 49
参考答案及点拨 …… 53

小卷 周测卷 · 专项卷 · 题型卷

周测培优卷 （13套）

◆有余数的除法和探索规律 …… 01
◆两步混合运算 …… 03
两步混合运算解决实际问题 …… 05
◆识别轴对称图形和方向 …… 07
◆数数、读数、写数 …… 09
认识算盘、数的大小比较、数的估计 …… 11
◆用几百几十数加、减整百、整十数以及估算 …… 13
三位数加减三位数、连加 …… 15
三位数减三位数的退位减法 …… 17
◆用加减两步计算解决简单的、比多比少问题 …… 19
◆千克与克的认识及单位换算 …… 21
◆时、分、秒的认识及应用 …… 23
◆数据的收集和整理、分析与推理 …… 25

专项提升卷 （3套）

有余数的除法和混合运算 …… 27
大数的认识与解决问题 …… 29
量与计量、数学百花园 …… 31

题型突破卷 （7套）

填空题 …… 33
选择题 …… 35
计算题（一） …… 37
计算题（二） …… 39
操作探索题 …… 41
应用题（一） …… 43
应用题（二） …… 45
参考答案及点拨 …… 47

好卷　全面测评　环环相扣有抓手
专项突破　重难易错不失分

荣德基
微信公众号
教辅资料站
关注微信公众号“教辅资料站”获取更多学习资料

姓名 学号 班级 学校

密 封 线

豆点提示：请不要在密封线内答题哦！

第一单元 跟踪检测卷

有余数的除法

时间：60 分钟　满分：100 +10 分

题号	一	二	三	四	五	六	七	附加题	总分
得分									

一、知识空格我会填。（每空 1 分，共 26 分）

1. 填一填。

（1）11 个梨，每 3 个放一盘，可以放（　　）盘，还剩（　　）个。



□ ÷ □ = □（盘）……□（个）

（2）10 个苹果，平均装在 3 个袋子里，每个袋子里装（　　）个，还剩（　　）个。



□ ÷ □ = □（个）……□（个）

2. 算式（　　）÷5 =（　　）……（　　）中，余数最大是（　　）；

算式（　　）÷（　　）=（　　）……6 中，除数最小是（　　）。

3. 28 ÷ 5 = □ ……□
28 ÷ 6 = □ ……□
28 ÷ 8 = □ ……□

4. 一个星期有 7 天，三月份有 31 天，是（　　）个星期余（　　）天。

5. 有一排图形按“○⊿⊙◆”的顺序依次排列，第 7 个图形是（　　），第 22 个图形是（　　）。

6. （1）有 30 本课外书，至少要拿出（　　）本，剩下的正好可以平均分给 4 个班。

（2）有 50 个桃子，至少要添上（　　）个，正好可以平均分给 7 只小猴子。

二、快乐做选择。（把正确答案的序号填在括号里）（每题 1 分，共 4 分）

1. △ ÷5 =6……□，□里最大可以填（　　）。

①6　　②5　　③4

2. 有 39 个皮球要装进箱子里，每个箱子可放下 5 个皮球，至少需要（　　）个箱子才能装完。

①6　　②7　　③8

3. 下面计算错误的是（　　）。

①34 ÷5 =6……4　　②55 ÷8 =7……1　　③41 ÷7 =5……6

4. 体育课上，老师让某队同学用“1、2”依次循环往下报数，京京排在第 17 位，应报（　　）。

①不确定　　②2　　③1

三、括号里最大可以填几？（每小题 3 分，共 9 分）

（　　）×6 <57　　（　　）×7 <43　　（　　）×5 <26

四、按要求分类，并连线。（7 分）







五、计算我能行。（28 分）

1. 直接写得数。（每题 0.5 分，共 4 分）

35 ÷8 =　　34 ÷5 =　　54 ÷8 =　　29 ÷5 =

37 ÷6 =　　49 ÷7 =　　46 ÷8 =　　72 ÷9 =

2. 下面的计算对的在（　　）里打“√”，错的打“×”，并改正。（每小题 4 分，共 8 分）

$\begin{array}{r} 5 \\ 8\overline{)50} \\ \underline{40} \\ 10 \end{array}$　改正：

（　　）

$\begin{array}{r} 8 \\ 6\overline{)47} \\ \underline{48} \\ 1 \end{array}$　改正：

（　　）

荣德基 荣誉 品质 微信公众号 教辅资料站
关注微信公众号“教辅资料站”获取更多学习资料

3. 用竖式计算下面各题。（每小题 4 分，共 16 分）

56 ÷ 8 =　　34 ÷ 5 =　　27 ÷ 6 =　　61 ÷ 9 =

六、看图写算式。（6 分）

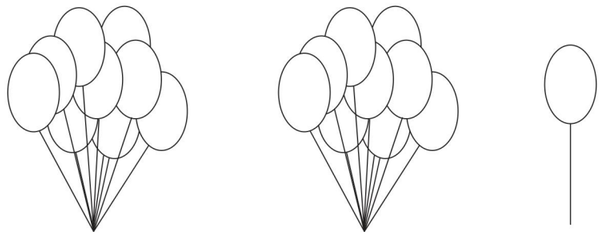

□ ÷ □ = □（束）……□（个）

□ ÷ □ = □（个）……□（个）

七、解决问题。（3 题 10 分，其余每题 5 分，共 20 分）

1. 平均每个花瓶插多少枝？还剩下多少枝？

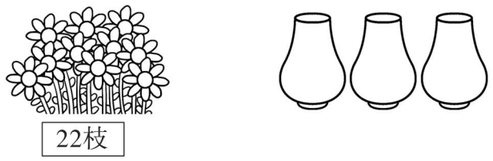

□ ÷ □ = □（　　）……□（　　）

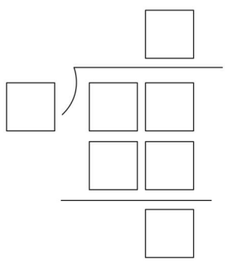

答：平均每个花瓶插□枝，还剩下□枝。

2. 最多能做几条跳绳？



3. 二（1）班 38 人去玩“丛林探险”。每辆大车可以坐 6 人，每辆小车可以坐 4 人。

（1）如果都坐大车，至少要租几辆？如果都坐小车呢？

（2）还可以怎样租车？

附加题：（10 分）

文具店开展“六一”优惠活动，7 元的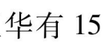“买两本送一本”。王华有 15 元，他可以买到几本？

自己说说

老师点评

家长点评

荣德基好卷
品质教辅
微信公众号
教辅资料站
关注微信公众号“教辅资料站”获取更多学习资料

姓名 学号 班级 学校

密 封 线

豆点提示：
请不要在密封线内答题哦！

第二、三单元 跟踪检测卷

混合运算　对称与方向

时间：60 分钟　满分：100 +10 分

题号	一	二	三	四	五	六	附加题	总分
得分								

一、知识空格我会填。（每空 1 分，共 27 分）

1. 在◯里填上“＞”“＜”或“＝”。

$6\times5+6$ ◯ 35　　$(3+5)\times1$ ◯ 8　　$20-4\div4$ ◯ 4

$5\times(10-8)$ ◯ 10　　38 ◯ $6\times7-3$　　63 ◯ $7\times8+9$

2. 先填空，再把每组的两道算式合并成一道综合算式。

（1）$6\times9=$ □　　$54-18=$ □

综合算式：_____

（2）$5+3=$ □　　$48\div8=$ □

综合算式：_____

3. 在 $25+7\times8$ 中，要先算（　　）法，再算（　　）法；在 $42\div(15-9)$ 中，要先算（　　）法，再算（　　）法。

4. 蛋糕店一共做了 83 块蛋糕，卖出 35 块后，要把剩下的蛋糕每 6 块装 1 盒，能装（　　）盒。

5. 中午的时候，太阳在我们的（　　）面，早晨太阳从（　　）面升起，傍晚太阳从（　　）面落下。

6. 在 4，5，6，7，8，9，0 这些数字中，是对称数字的有（　　）、（　　）。

7. 请写出三个对称的汉字：（　　）、（　　）、（　　）。

8. 早晨，小明迎着太阳走，那小明的后面是（　　）面，左面是（　　）面。

二、判断对错。（对的画“√”，错的画“×”）（每题 1 分，共 8 分）

1. $50-30\div5=4$　　（　　）

2. $24\div(4+2)$ 的结果比去掉括号后计算的结果要小。　　（　　）

3. 把 $3+5=8$ 和 $8\times4=32$ 这两个算式合并成一个综合算式是 $3+5\times4$。（　　）

4. 5 个小朋友要折 100 只纸鹤，现在每人已经折了 9 只，还要再折多少只？算式是 $100-5\times9$。（　　）

5. 英文字母 S、H、P、Q 都是轴对称图形。（　　）

6. 早晨起来面向东方，那么左手所对的方向就是北方。（　　）

7. 三角形一定是轴对称图形。（　　）

8. 东与西相对，南与北相对。（　　）

三、快乐做选择。（把正确答案的序号填在括号里）（每题 1 分，共 6 分）

1. $36-36\div6$ 的结果是（　　）。

①30　　②6　　③0

2. 小兰花 12 元买了 3 瓶同样的饮料，小明花 3 元买了 1 瓶饮料，（　　）买的饮料便宜。

①小兰　　②小明　　③无法确定

3. 已知☆＋○＝□，□×△＝◆，合并成一个综合算式后是（　　）。

①☆＋○×△＝◆　　②（☆＋○）×◆＝△

③（☆＋○）×△＝◆

4. 下列图形中，不是轴对称图形的是（　　）。



①　　②　　③

5. 下面图形中，所画的线是该图形的对称轴的是（　　）。

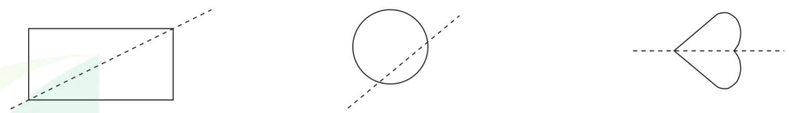

①　　②　　③

6. 中午面向太阳，左面是（　　）。

①南　　②西　　③东

四、计算我能行。（18 分）

1. 直接写得数。（每小题 2 分，共 12 分）

$43+28\div7=$　　$3\times9+40=$　　$8\times(1+3)=$

$81\div9\times7=$　　$9\times8-48=$　　$(47-29)\div3=$

荣德基 微信公众号 教辅资料站
关注微信公众号“教辅资料站”获取更多学习资料

2. 把得数相同的算式连接起来。(6 分)



五、按要求做题。(1 题 7 分，2 题 6 分，共 13 分)

1. 下面的图形或者汉字是对称的画“√”，不是的画“×”。



田　地　下　凹

□　□　□　□　□　□　□

2. 按要求填方向。



小红在操场的西面，

小方在操场的（　　）面，

小华在操场的（　　）面，

小丽在操场的（　　）面。

六、解决问题。(每题 7 分，共 28 分)

1. 修一条长 80 米的小路，已经修了 24 米，剩下的平均每小时修 8 米，还需要修几小时？

2. 谁买得便宜？每支便宜多少元？



3. 每年的 3 月 12 日是国家植树节。今年植树节某中学到山上植树。



4. 48 人参加夏令营活动。



附加题：(10 分)

小芳今年 6 岁，爸爸的年龄比小芳年龄的 4 倍还多 5 岁，爸爸今年多少岁？10 年后爸爸比小芳大几岁？

荣德基 品质教辅 微信公众号 教辅资料站
关注微信公众号“教辅资料站”获取更多学习资料

自己说说　老师点评　家长点评

密　封　线

姓名 学号 班级 学校

密 封 线

豆点提示：
请不要在密封线内答题哦！



第四单元 跟踪检测卷

万以内数的认识

时间：60 分钟　满分：100 +10 分

题号	一	二	三	四	五	六	七	附加题	总分
得分									

一、知识空格我会填。（每空 1 分，共 37 分）

1. 写一写，读一读。

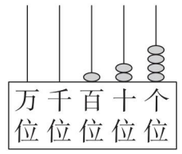

写作：（　　）

读作：（　　）

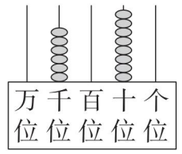

写作：（　　）

读作：（　　）

2. 5846 是一个（　　）位数，最高位是（　　）位，最高位上的数是（　　），这个数里面有（　　）个千，（　　）个百，（　　）个十，（　　）个一。

3. 由 4、3、8、0 组成的最大的四位数是（　　），最小的四位数是（　　），它们的最高位都是（　　）位。

4. 在 5605 中，左边的“5”在（　　）位上，表示（　　）个（　　）；右边的“5”在（　　）位上，表示（　　）个（　　）。

5. 哥哥一个月能节省 100 元的零花钱，那他 10 个月能节省（　　）元。

6. 按从小到大的顺序排列：2045、245、452、4025。

（　　）<（　　）<（　　）<（　　）

7. 填表。

数位顺序表					
……	（　　）	（　　）	百位	（　　）	个位

8. 五千零四十是由（　　）个千和（　　）个十组成。

9. 照样子在□里填上合适的数。

1234 = 1000 + 200 + 30 + 4

3362 = □ + □ + □ + □

6570 = □ + □ + □

二、快乐做选择。（把正确答案的序号填在括号里）（每题 2 分，共 10 分）

1. 从 7900 开始，一千一千地数，下一个数是（　　）。

①6900　　②9900　　③8900

2. 1000 里面有（　　）个十。

①100　　②1000　　③10

3. 一个四位数，千位上和个位上都是 2，其他数位上都是 0，这个数是（　　）。

①2020　　②2002　　③2200

4. 用两个 0，两个 6 组成的四位数中，不读出 0 的是（　　）。

①6600　　②6006　　③6060

5. 8700 中的“7”表示（　　）。

①7 个百　　②7 个十　　③7 个一

三、判断对错。（对的画“√”，错的画“×”）（每题 1 分，共 6 分）

1. 一个数的最高位是千位，这个数是五位数。（　　）

2. 最大的三位数比最小的四位数要大。（　　）

3. 2□36 < 2500，□里最大填 4。（　　）

4. 由两个 3 和两个 0 组成的最大数是 3030。（　　）

5. 一个数的末尾不管有几个“0”，都只读一个零。（　　）

6. 7 个一、3 个十、6 个百和 4 个千组成的数是 7364。（　　）

四、在□里填上合适的数。（1 题 4 分，2 题 5 分，共 9 分）

1. 5□2 < 589　3□9 < 320　1763 < □963　8□0 > 870

2. （1）397　398　399　□　□　402　□　□

□ < 402

（2）570　580　□　□　610　620　□　640

□ > □

荣德基 荣誉出品 微信公众号 教辅资料站
关注微信公众号“教辅资料站”获取更多学习资料

五、分苹果。（7分）



只读一个零的数

一个零也不读的数

六、用3、4和两个0组成四位数。（每题5分，共10分）

1. 当两个0都不读出来时，组成的数是多少？

2. 当只读一个0时，组成的数是多少？

七、解决问题。（4题6分，其余每题5分，共21分）

1. 估一估，下图中大约有多少个水杯？



2. 每根玉米棒大约有700颗玉米粒，10根这样的玉米棒大约有多少颗玉米粒？

3. 谁这个学期做的计算题最多？标一标，比一比。

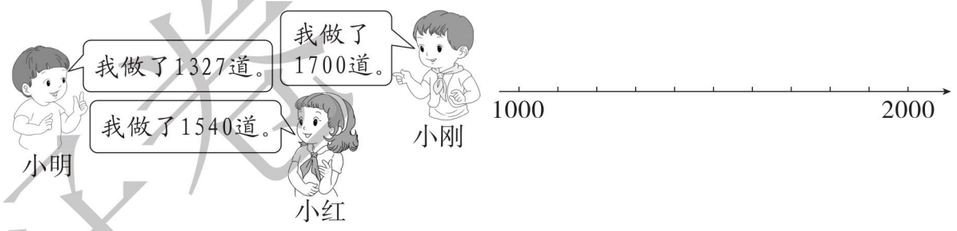

4. 猜一猜，空调和冰箱的价钱各是多少元？（空调的价钱画“○”，冰箱的价钱画“△”）

空调的价钱比电视便宜，冰箱比电视贵一些。

5999元	6350元	6590元	7599元

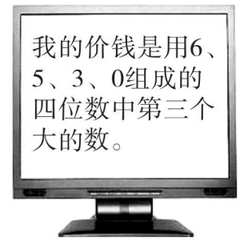

附加题：（10分）

看一看，画一画，填一填。

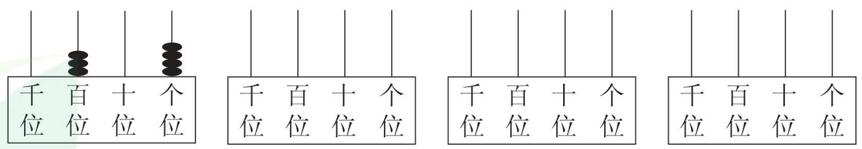

1. 第一个计数器上表示的数是（　　），它最高位上的数字是（　　），表示（　　）个（　　）。
2. 用7个珠子表示出不同的三位数，在后面三个计数器上画出来，并写出所表示的数。
3. 把上面的四个数按从小到大的顺序排列出来。

_____

荣德基 品质教辅 微信公众号 教辅资料站
关注微信公众号“教辅资料站”获取更多学习资料
自己说说 老师点评 家长点评 密 封 线

姓名 学号 班级 学校

密 封 线

豆点提示：
请不要在密封线内答题哦！

期中 跟踪检测卷

时间：60 分钟　满分：100 +10 分

题号	一	二	三	四	五	附加题	总分
得分							

一、知识空格我会填。（每空 1 分，共 17 分）

1. 一个数除以 8，如果有余数，余数最大是（　　）。

2. 下面的钢笔平均放在（　　）个盒子里，每盒放（　　）支，还剩（　　）支。

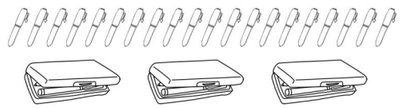

20 ÷ □ = □（支）……□（支）

3. 计算 25 − 2 × 6，先算（　　）法，再算（　　）法，最后结果是（　　）。

4. 李亮在计算（72 − 45）÷ 9 时，不小心把括号忽略了，计算的结果比正确的结果大（　　）。

5. 园林工人按照 2 棵柳树、1 棵松树、1 棵杨树的规律栽树，第 28 棵是（　　）。

6. 一个数由 4 个千、6 个百、5 个一组成，这个数是（　　），读作：（　　）。

7. 括号里最大可以填几？

（　　）× 7 < 48　　4 ×（　　）< 21　　5 ×（　　）< 36

二、快乐做选择。（把正确答案的序号填在括号里）（每题 2 分，共 10 分）

1. 下面的希腊字母中，是轴对称图形的为（　　）。



①　　②　　③

2. 用 3、0、0、8 四张数字卡片摆四位数，能摆出（　　）个不同的四位数。

①6　　②4　　③2

3. 丫丫家书房里有 156 本藏书，周周家比丫丫家的藏书多得多，周周家可能有（　　）本藏书。

①148　　②256　　③600

4. ◇ + 36 的计算结果是七十几，那么◇后面藏的数可能是（　　）。

①47　　②37　　③27

5. 下面图形中，不是轴对称图形的是（　　）。



①　　②　　③

三、按要求做题。（12 分）

1. 填一填。（4 分）



小明家的电视机放在客厅的东面，
餐桌摆在客厅的（　　）面，
客厅的（　　）面摆着沙发。

2. 用数字卡片 5、3、0、0 摆出符合要求的四位数。（每小题 4 分，共 8 分）

（1）摆出的四位数中，最接近 5000 的数。

（2）摆出的四位数中，读出“零”的最大的数。

四、计算我能行。（36 分）

1. 直接写得数。（每小题 2 分，共 12 分）

5 × 6 + 2 =	36 ÷ 8 =	26 −（6 + 8）=
81 ÷（26 − 17）=	8 ×（4 + 5）=	63 ÷ 7 × 5 =

荣德基 微信公众号 教辅资料站
关注微信公众号“教辅资料站”获取更多学习资料

2. 用竖式计算下面各题。（每小题 4 分，共 12 分）

54 ÷ 7 =　　78 ÷ 9 =　　66 ÷ 8 =

3. 脱式计算。（每小题 4 分，共 12 分）

（53 − 35）÷ 3　　19 + 8 × 3　　81 ÷（27 ÷ 3）

五、解决问题。（每题 5 分，共 25 分）

1. 42 根黄瓜，平均分给 9 位同学，每人分到几根？还剩下几根？

2. 王老师买了 1 个书包和 8 本笔记本，一共需要多少元？带 100 元够不够？



56元/个　　3元/本

3. 二年级（3）班的 45 名同学去参观军事博物馆，坐满一辆大客车后，余下的同学坐小轿车，需要几辆小轿车？



4. 兔妈妈拔了 35 个胡萝卜，送给小松鼠 8 个，剩下的平均分给 3 只兔宝宝，每只兔宝宝平均分到几个胡萝卜？

5. 妈妈给红红网购衣服。一件上衣 98 元，一条裙子 56 元。恰逢商家进行促销：满 100 元，免邮费；满 150 元，减 25 元。

（1）妈妈买的这些衣服可以免邮费吗？

（2）妈妈买这些衣服一共花了多少元？

附加题：（10 分）

小方和妈妈一起去工厂用同样大的盒子装乒乓球，每盒装的一样多，妈妈装了 9 盒，小方装了 3 盒，妈妈比小方多装了 42 个乒乓球，妈妈一共装了多少个乒乓球？

自己说说

老师点评

家长点评

密　封　线

荣德基 品质教辅 微信公众号 教辅资料站
关注微信公众号“教辅资料站”获取更多学习资料

参考答案及点拨（大卷）

第一单元跟踪检测卷

有余数的除法

一、1.（1）3　2　11　3　3　2

（2）3　1　10　3　3　1

2. 4　7

3. 5　3　4　4　3　4

4. 4　3

5. ⊙　⊿

6.（1）2　（2）6

二、1. ③　**点拨：**余数要比除数小，因为除数是5，所以余数最大是4。

2. ③　**点拨：**39 ÷ 5 = 7（个）……4（个），所以选③。

3. ②　**点拨：**②中商与除数的积比被除数大，所以错误。

4. ③

三、9　6　5

四、



五、1. 4……3　6……4　6……6　5……4

6……1　7　5……6　8

2. ×　　×

改正：
$$\begin{array}{r} 6 \\ 8\overline{)50} \\ 48 \\ \hline 2 \end{array}$$
改正：
$$\begin{array}{r} 7 \\ 6\overline{)47} \\ 42 \\ \hline 5 \end{array}$$

3. 56 ÷ 8 = 7　　34 ÷ 5 = 6……4

$$\begin{array}{r} 7 \\ 8\overline{)56} \\ 56 \\ \hline 0 \end{array}$$
$$\begin{array}{r} 6 \\ 5\overline{)34} \\ 30 \\ \hline 4 \end{array}$$

27 ÷ 6 = 4……3　61 ÷ 9 = 6……7

$$\begin{array}{r} 4 \\ 6\overline{)27} \\ 24 \\ \hline 3 \end{array}$$
$$\begin{array}{r} 6 \\ 9\overline{)61} \\ 54 \\ \hline 7 \end{array}$$

六、19　9　2　1　19　2　9　1

七、1. 22 ÷ 3 = 7（枝）……1（枝）

$$\begin{array}{r} 7 \\ 3\overline{)22} \\ 21 \\ \hline 1 \end{array}$$

答：平均每个花瓶插7枝，还剩下1枝。

2. 25 ÷ 3 = 8（条）……1（米）

答：最多能做8条跳绳。

3.（1）38 ÷ 6 = 6（辆）……2（人）

6 + 1 = 7（辆）

答：如果都坐大车，至少要租7辆。

38 ÷ 4 = 9（辆）……2（人）

9 + 1 = 10（辆）

答：如果都坐小车，至少要租10辆。

（2）还可以租3辆大车，5辆小车。（答案不唯一）

附加题：

15 ÷ 7 = 2（本）……1（元）

2 + 1 = 3（本）

答：他可以买到3本。

第二、三单元跟踪检测卷

混合运算　对称与方向

一、1. >　=　>　=　<　<

2.（1）54　36　6 × 9 − 18 = 36

（2）8　6　48 ÷（5 + 3）= 6

3. 乘　加　减　除

4. 8

5. 南　东　西

6. 0　8

7. 中　工　喜（答案不唯一）

8. 西　北

二、1. ×　2. √　3. ×　4. √　5. ×

6. √　7. ×　8. √

三、1. ①　2. ②　3. ③　4. ③　5. ③

6. ③

四、1. 47　67　32　63　24　6

2.

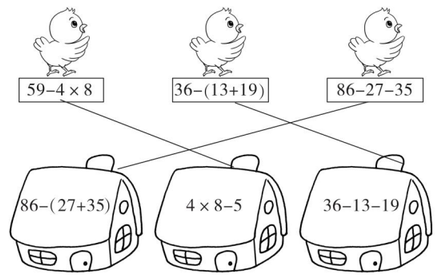

五、1. 田　地　下　凹

√　×　√　√　×　×　√

2. 东　北　南

六、1.（80 − 24）÷ 8 = 7（小时）

答：还需要修7小时。

2. 15 ÷ 5 = 3（元）

3 < 5

5 − 3 = 2（元）

答：小明买得便宜，每支便宜2元。

3.（27 + 45）÷ 8 = 9（棵）

答：平均每行栽9棵。

4. 48 ÷ 6 = 8（人）

48 ÷（6 + 2）= 6（人）

答：原来平均每条船坐8人，现在平均每条船坐6人。

附加题：

4 × 6 + 5 = 29（岁）

29 − 6 = 23（岁）

答：爸爸今年29岁，10年后爸爸比小芳大23岁。

点拨：爸爸比小芳大多少岁不会随年龄增长而改变。

第四单元跟踪检测卷

万以内数的认识

一、1. 124　一百二十四　6080　六千零八十

2. 四　千　5　5　8　4　6

3. 8430　3048　千

4. 千　5　千　个　5　一

5. 1000

6. 245　452　2045　4025

7. 万位　千位　十位

8. 5　4

9. 3000　300　60　2　6000　500　70

二、1. ③　2. ①　3. ②　4. ①　5. ①

三、1. ×　2. ×　3. √　4. ×　5. ×

6. ×

四、1. 7　0　2　8（答案不唯一）

2.（1）400　401　403　404　398（最后一空答案不唯一）

（2）590　600　630　620　580（最后两空答案不唯一）

五、只读一个零的数：3090　5002　9020

一个零也不读的数：400　490　5200　920

六、1. 4300　3400

2. 4003　4030　3004　3040

七、1. 大约有25个水杯。

2. 10根玉米棒大约有7000颗玉米粒。

3.

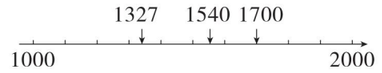

1700 > 1540 > 1327

答：小刚这个学期做的计算题最多。

4. 空调：5999元　冰箱：6590元

附加题：

1. 304　3　3　百

2.

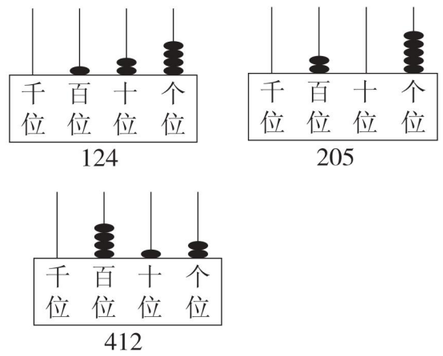

（答案不唯一）

3. 124 < 205 < 304 < 412

关注微信公众号“教辅资料站”获取更多学习资料

期中跟踪检测卷

一、1. 7

2. 3　6　2　3　6　2

3. 乘　减　13

4. 64

5. 杨树

6. 4605　四千六百零五

7. 6　5　7

二、1. ①　2. ①　3. ③　4. ②　5. ②

三、1. 南　西

2. （1）5003　（2）5030

四、1. 32　4……4　12　9　72　45

2. $54\div7=7\cdots\cdots5$　　$78\div9=8\cdots\cdots6$

$$\begin{array}{r} 7 \\ 7\overline{)54} \\ 49 \\ \hline 5 \end{array}\qquad \begin{array}{r} 8 \\ 9\overline{)78} \\ 72 \\ \hline 6 \end{array}$$

$66\div8=8\cdots\cdots2$

$$\begin{array}{r} 8 \\ 8\overline{)66} \\ 64 \\ \hline 2 \end{array}$$

3. $(53-35)\div3$

$=18\div3$

$=6$

$19+8\times3$　　$81\div(27\div3)$

$=19+24$　　$=81\div9$

$=43$　　$=9$

五、1. $42\div9=4$（根）……6（根）

答：每人分到4根，还剩下6根。

2. $56+8\times3=80$（元）　$100>80$

答：一共需要80元，带100元够。

3. $(45-33)\div4=3$（辆）

答：需要3辆小轿车。

4. $(35-8)\div3=9$（个）

答：每只兔宝宝平均分到9个胡萝卜。

5. （1）$98+56=154$（元）

$154>100$　答：可以免邮费。

（2）$154>150$　$154-25=129$（元）

答：妈妈买这些衣服一共花了129元。

附加题：

$42\div(9-3)=7$（个）

$7\times9=63$（个）

答：妈妈一共装了63个乒乓球。

点拨：妈妈比小方多装了6盒，并且多装了42个，可算出每盒装几个。

第五单元跟踪检测卷

万以内数的加法和减法

一、1. 621　69

2. 500　100

3. <　>　>　>　=　=

4. （1）300　200　（2）500　100　（3）18

二、1. ②　2. ①　3. ③

三、×　$\begin{array}{r} 339 \\ +471 \\ \hline 810 \end{array}$　√

四、1. 696　302

2. 302　185

五、1.

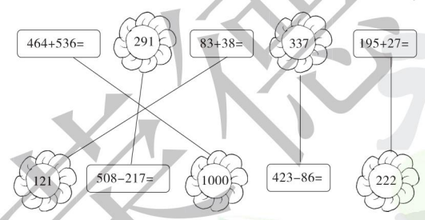

2. 556　$\begin{array}{r} 387 \\ +169 \\ \hline 556 \end{array}$　验算：$\begin{array}{r} 556 \\ -169 \\ \hline 387 \end{array}$

53　$\begin{array}{r} 602 \\ -549 \\ \hline 53 \end{array}$　验算：$\begin{array}{r} 549 \\ +53 \\ \hline 602 \end{array}$

929　$\begin{array}{r} 475 \\ +329 \\ \hline 804 \end{array}$　$\begin{array}{r} 804 \\ +125 \\ \hline 929 \end{array}$

120　$\begin{array}{r} 800 \\ -544 \\ \hline 256 \end{array}$　$\begin{array}{r} 256 \\ -136 \\ \hline 120 \end{array}$

六、1. （1）$307-233=74$（本）

答：11月比10月多读了74本书。

（2）$193+279+200=672$（本）

答：6月、7月、8月一共读了672本书。

2. （1）$382+165=547$（元）　$547>500$

答：能获奖。

（2）$382+120=502$（元）　$502>500$

答：买一辆自行车和一个玩具熊能获奖。（答案不唯一）

点拨：只要保证买东西花的总钱数的和大于或等于500元就行。

3. （1）$610-260-34=316$（本）

答：童话书有316本。

（2）$610-260=350$（本）

$610+350+316=1276$（本）

答：三种书一共有1276本。

4. $300-99-179=22$（元）

答：最多还能剩22元。

点拨：理解“最多剩多少元”实际上是花钱买的衣服的价格最低是解题关键。

附加题：

$\begin{array}{r} 460 \\ -137 \\ \hline 323 \end{array}$　$\begin{array}{r} 536 \\ +247 \\ \hline 783 \end{array}$

第六、七单元跟踪检测卷

解决问题　千克与克的认识

一、1. 30　2. 135　3. 63　4. 7000　6　2　4000

5. 990克 < 2900克 < 3千克 < 3100克 < 9999克 < 1001千克

6. 30　35　65

7. 16　39　16　128

二、1. ②　2. ③　3. ③　4. ②　5. ③

三、1. ×　2. ×　3. √　4. ×

四、1. <　=　<　=

2.

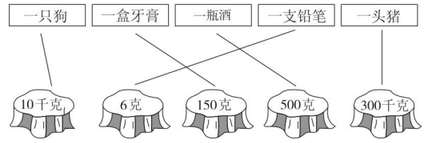

五、1. $622-248-118=256$（块）

2. $498+189+147=834$

六、1. 2千克 = 2000克　5千克 = 5000克

$2000+1500+5000=8500$（克）

8千克 = 8000克　$8500>8000$

答：不能同时过河。

2. （1）$2\times3+2=8$（元）

答：一共要花8元钱。

（2）$2\times4=8$（元）

$(20-8)\div2=6$（千克）

答：剩下的钱还可以买6千克茄子。

3. $900-446-108=346$（元）

$346<400$

答：还剩346元。不够买。

附加题：

①　√

点拨：前两个算式相减的差是□比○大的。

第八、九、十单元跟踪检测卷

时、分、秒的认识　收集数据　数学百花园

一、1. 120　1　380　60　1　54　150

2. （1）分钟　（2）秒　（3）分钟　（4）小时

3. （1）数学　（2）英语

4. 新华字典　作业本　文具盒

5. （1）　正下　正　正正　正一

（2）8　10　5　6

二、1. ②　2. ②　3. ②

三、1.

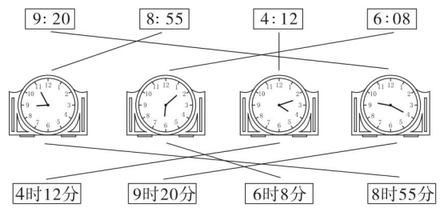

荣德基 品质教辅 微信公众号 教辅资料站
关注微信公众号“教辅资料站”获取更多学习资料

2. 

5：30　10：00　10：30　6：40

3. 6：30　25　6：55　35　7：30

四、1.

	美术	音乐	体育
王老师			√
刘老师		√	
张老师	√		

2. （1）

我	你	心	连	和
丅	下	正	丅	丅

（2）“心”字出现次数最多。“我”、“连”、“和”三个字出现次数一样多。

（3）2＋3＝5（次）

答：“我”和“你”一共出现了5次。

（4）4－2＝2（次）

答：“心”比“连”出现的次数多2次。

3. 第1名：小马　第2名：小兔

第3名：小狗

附加题：



点拨：理解可能在图书馆的时间只能在开馆时段内是解题关键。

期末总复习　模块过关卷（一）

数与代数　统计

一、1. 3003　三千零三

2. 8054

3. 400

4. 甲

5. 1　5

6. 1　5　1　25　3200　2　500

7. 300　8.（27＋8）÷7＝5

9. 2458　4258　5248　5428

二、1. ③　2. ①　3. ②　4. ①　5. ③

三、

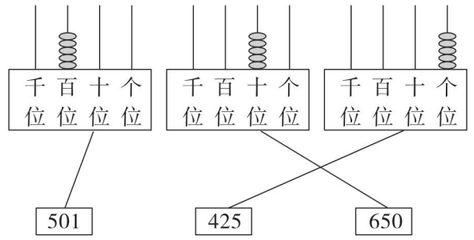

四、1. 4　320　470　60　8　222

2. 7……1

$$\begin{array}{r} 7 \\ 4\overline{)29} \\ 28 \\ \hline 1 \end{array}$$

871　546＋325＝871　验算：871－325＝546

115　602－487＝115　验算：115＋487＝602

3.（72－42）÷5＝30÷5＝6

23＋7×3＝23＋21＝44

（36÷4）×2＝9×2＝18

五、1. 50÷（2×3）＝8（天）……2（片）

答：这瓶钙片能吃8天，还剩2片。

2. 170－25＋35＝180（厘米）

答：3号运动员的成绩是180厘米。

3. 368－109－27＝232（本）

答：连环画有232本。

4. 5×8－12＝28（棵）

答：还剩28棵没栽。

5. 15　22

（1）张鹏　因为张鹏的票数多。

（2）不会改变，因为如果这三位同学都投李小红，李小红也只有18票，还是比张鹏的票数少。

附加题：

6－1＝5　10÷5＝2（秒）

10－1＝9　2×9＝18（秒）

答：敲10下用18秒。

点拨：时钟敲6下有5个间隔，用10秒，每个间隔是2秒，敲10下有9个间隔。

期末总复习　模块过关卷（二）

图形与几何

一、1. 南　北　东　西

2. 北　南　西　东

3. 南　熊猫馆　猴山

4. ②

5. √　√　√　×　√

二、1. ③　2. ①　3. ②　4. ②

三、1. ×　2. ×　3. ×　4. √　5. ×

四、

1. ① 2 ③ 4 5 6 7 ⑧ 9 ⓪

本　同　回　喜　田　图

L　H　N　A　＋　－　×　÷

2. 10：15　6：55　4：30

五、

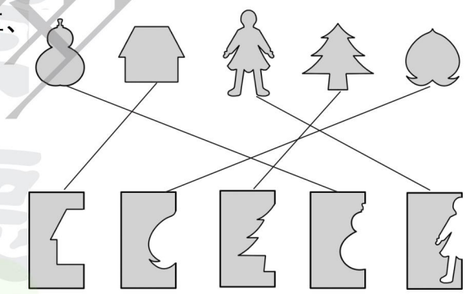

六、1. 北　小狗　小鹿

2. 60＋55＝115（米）

50＋70＝120（米）　115＜120

答：经过小猴家走近一些。

附加题：

3：00　4：30　10：10　10：40

期末总复习

仿真模拟卷（一）

一、1. 7214　7　2　1　4

2. 1101　1011　998　911　889

3. 6410　1046

4. 900

5. 克　秒　千克　时

6. 黄

7. 1

8. 甲

9. 鸡　60

点拨：

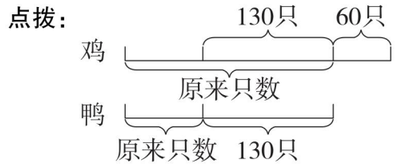

二、1. ②　2. ②　3. ②　4. ③　5. ①

三、1. 330　202　82　8　510　4

2. 551　810－259＝551　验算：551＋259＝810

510　374＋136＝510　验算：510－136＝374

1308　576＋198＋532＝1308

82　365－178＝187　验算：187－105＝82

3.（72÷45－36）＝72÷9＝8

（7＋2）×2＝9×2＝18

四、

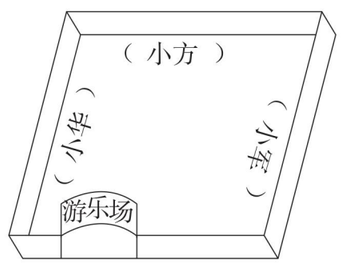

五、1. 65÷9＝7（个）……2（个）

答：这些鸡蛋能放满7个蛋托，还剩下2个鸡蛋。

2.（1）563＋305＋198＝1066（人）

答：三所学校一共有1066人。

关注微信公众号“教辅资料站”获取更多学习资料

（2）563 −（305 + 198）= 60（人）

答：多 60 人。

3. （150 − 96）÷ 6 = 9（千米）

答：平均每天要修 9 千米。

4. 60 − 7 × 5 = 25（页）

答：还有 25 页没有看。

5. （1）30　（2）12　6

附加题：

△ = 400　　○ = 1000

点拨：第二个算式比第一个算式多减一个△，差就小了 400，所以△ = 400，再用○ − △ = 600，即可算出○ = 1000。

期末总复习

仿真模拟卷（二）

一、1. 1005　1　5　1004　1006

2. 3　1

3. 9000　500

4. ＞　＜　＞　＜　＞　＞

5. 1　8　7

6. 3 小时 40 分钟

7. 1500　5100　1005　5001　1050　5010

二、1. ③　2. ③　3. ②　4. ②　5. ①

三、1. √　√　×　×

2. 北　郁金香　菊花

3.

	数学	语文	道德与法治
李老师	×	√	×
张老师	√	×	×
王老师	×	×	√

四、1. 820　540　9　6……1　600　48

2. 962　586　+317=962　验算：962 − 376 = 586

417　904　− 487 = 417　验算：417 + 487 = 904

3. 48 + 9 × 5　　81 ÷（27 − 18）

= 48 + 45　　= 81 ÷ 9

= 93　　= 9

6 ×（52 − 43）

= 6 × 9

= 54

五、1. 35 ÷ 9 = 3（个）……8（个）

答：每个同学分到 3 个，还剩 8 个。

2. （1）葡萄　14　西瓜　6

（2）13 + 14 + 10 + 6 = 43（人）

答：二（1）班一共有 43 人。

3. （30 + 42）÷ 8 = 9（个）

答：需要 9 个袋子。

4. （1）80 − 9 × 8 = 8（元）

答：找回 8 元。

（2）（50 − 35）÷ 3 = 5（元）

答：一本笔记本 5 元。

附加题：

50 ÷ 6 = 8（千克）……2（千克）

2 + 8 = 10（千克）

答：稍重的那盒重 10 千克。

点拨：理解“稍重”的含义是解题的关键。

期末总复习

仿真模拟卷（三）

一、1. 1329　千　1　3　2　9

2. 4　1

3. 83 −（23 + 17）= 43

56 ÷（8 − 1）= 8

4. 30

5. 男

6. 3000 克 > 2000 克 > 1 千克 > 500 克 > 65 克

7. 二　三

8. 75　1　30　4　2200

二、1. ③　2. ①　3. ①　4. ②　5. ③

三、1.（1）西　（2）鸽子　蛇

2.



6：30　　2：50　　10：05

3.

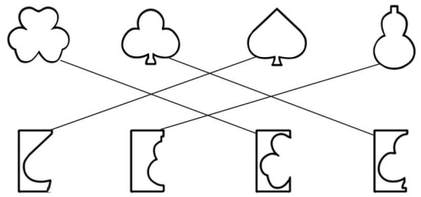

四、1. 1100　360　290　460　5　99

2. 7……3　7) 52　49　3

924　639　+285 = 924　验算：924 − 285 = 639

329　503　− 174 = 329　验算：329 + 174 = 503

3. 602 − 528 + 359　　（90 − 36）÷ 9

= 74 + 359　　= 54 ÷ 9

= 433　　= 6

35 + 7 × 4

= 35 + 28

= 63

五、1. 11　17　5　13

2. 漫画　科技

3. 漫画

六、1.（30 + 42）÷ 8 = 9（组）

答：两人买的笔记本一共能分成 9 组。

2. 520 − 198 + 229 = 551（瓶）

3.（1）348 + 172 + 179 = 699（元）

答：一共需要 699 元。

（2）348 + 172 = 520（元）

348 + 179 = 527（元）

172 + 179 = 351（元）

351 < 500 < 520 < 527

500 − 351 = 149（元）

答：可以买到椅子和衣柜，还剩 149 元。

附加题：

350 − 19 = 331（元）

350 − 337 = 13（元）

答：书桌的价格是 337 元，应找给顾客 13 元。

点拨：解决看错数的问题，可以利用已知的结果运算，得出看错的数。

期末总复习

仿真模拟卷（四）

一、1. 四　千　6　3　630

2. 400

3. 东　南　北

4. 千克　克　秒　分钟

5. 5　6　6

6. 8：00　9：30　1　30

二、1. ×　2. ×　3. ×　4. √　5. ×

三、1. ①　2. ③　3. ②　4. ③

5.（1）①　（2）②

四、1. 211　433　32　4700　1540　55

5……5　7　54

2. 1318　526 + 792 = 1318　验算：1318 − 792 = 526

9……2　8) 74　72　2

778　448 + 102 = 550　550 + 228 = 778

281　1006 − 459 = 547　547 − 266 = 281

五、1. 甲：第一名　乙：第二名　丙：第三名

2.（36 + 18）÷ 6 = 9（朵）

答：每班可以分得 9 朵。

3. 405 −（530 − 145）= 20（箱）

答：水果店里的苹果比桃子多 20 箱。

4.（1）11　4　5　（2）易拉罐

（3）11 − 4 = 7（个）

答：少 7 个。

附加题：

604 −（79 − 16）= 541

答：正确的得数应该是 541。

点拨：理解把加数个位上的 6 看成 9，十位上的 1 看成 7，得出的结果比原来大了 63，是解题关键。

关注微信公众号“教辅资料站”获取更多学习资料

小卷：周测卷·专项卷·题型卷



01 周测培优卷（13套）

02 专项提升卷（3套）

03 题型突破卷（7套）

二年级 数学 下

（BJ版）

赠送 ZENG SONG

关注微信公众号“教辅资料站”获取更多学习资料



目录

周测培优卷

有余数的除法和探索规律 …… 01
两步混合运算 …… 03
两步混合运算解决实际问题 …… 05
识别轴对称图形和方向 …… 07
数数、读数、写数 …… 09
认识算盘、数的大小比较、数的估计 …… 11
用几百几十数加、减整百、整十数以及估算 …… 13
三位数加减三位数、连加 …… 15
三位数减三位数的退位减法 …… 17
用加减两步计算解决简单的、比多比少问题 …… 19
千克与克的认识及单位换算 …… 21
时、分、秒的认识及应用 …… 23
数据的收集和整理、分析与推理 …… 25

专项提升卷

有余数的除法和混合运算 …… 27
大数的认识与解决问题 …… 29
量与计量、数学百花园 …… 31

题型突破卷

填空题 …… 33
选择题 …… 35
计算题(一) …… 37
计算题(二) …… 39
操作探索题 …… 41
应用题(一) …… 43
应用题(二) …… 45

参考答案及点拨 …… 47

关德基好卷
微信公众号
教辅资料站
关注微信公众号“教辅资料站”获取更多学习资料



周测培优卷1

有余数的除法和探索规律

班级_____ 姓名_____ 得分_____ 时间：40分钟 满分：100分

一、知识空格我会填。（2题6分，5题8分，其余每空2分，共46分）

1. 在算式64÷7=9……1中，商是（　　），余数是（　　）。

2. 动手圈一圈，填一填，算一算。

14个苹果，每3个分一组，可以分（　　）组，还剩（　　）个。列式为14÷□=（　　）（组）……（　　）（个）。



3. 按照□△○□△○…的规律排列，第13个图形是（　　）。

4. 我会算。

26÷4=□……□

```
      □
   ┌──
4  │ 2  6
   │ □  □
   ├──
   │ □
```

想：4和（　　）相乘的积最接近26，而且小于26。

5. 先算一算，再把算式分一分。

8÷3=□……□　　15÷4=□……□

21÷6=□……□　　17÷5=□……□



余数是2



余数是3

6. 把一堆苹果平均分给5个小朋友，如果有剩余，最多剩（　　）个，最少剩（　　）个，也就是说在有余数的除法中，余数要比除数（　　）。

7. 括号里最大能填几？

（　　）×7<34　　6×（　　）<46　　（　　）×8<70

荣德基好卷
微信公众号
教辅资料站

关注微信公众号“教辅资料站”获取更多学习资料

二、我是小医生。(每题5分，共10分)



治疗：

(　　)



治疗：

(　　)

三、用竖式计算。(每题4分，共16分)

67 ÷ 9 =　　45 ÷ 8 =　　55 ÷ 7 =　　28 ÷ 3 =

四、解决问题。(9 + 9 + 10 = 28分)

1. 学校六一儿童节布置会场，按照“红、黄、粉、绿”的顺序挂上彩旗，请问第20面彩旗是什么颜色的？第34面呢？

2. 这盒纽扣可以钉多少件这样的衣服？还剩下多少个？



3. 有48个梨，每7个装一大盘，剩下的每2个装一小盘，可以装几大盘？几小盘？

荣德基好卷
微信公众号
教辅资料站

关注微信公众号“教辅资料站”获取更多学习资料



周测培优卷2

两步混合运算

班级_____ 姓名_____ 得分_____ 时间：40分钟 满分：100分

一、知识空格我会填。（每空2分，共22分）

1. 我会算。

$36-6\times4=\square$　　$48\div(3+5)=\square$

2. 在算式里，既有加法或减法，又有乘法或除法，先算（　　）法或（　　）法，再算（　　）法或（　　）法；如果含有小括号，要先算（　　）里面的。

3. 餐桌上有3双筷子，妈妈又拿来了6根，现在一共有（　　）根筷子。

4. 一本96页的书，已经读了48页，如果以后每天读8页，还需要（　　）天才能读完。

二、快乐做选择。（把正确答案的序号填在括号里）（每题3分，共6分）

1. 把$9-6=3$和$3\times9=27$写成一个综合算式是（　　）。

① $9-6\times9=27$　　② $(9-6)\times9=27$　　③ $9-6\times3=27$

2. 二年级（1）班有3个社团小组，每个社团小组有5人，后来每个社团小组又增加了1人，求现在一共有多少人，列式为（　　）。

① $3\times5+1$　　② $(3+1)\times5$　　③ $3\times(5+1)$

三、在◯里填上“＞”“＜”或“＝”。（每题3分，共12分）

$20-4\times4$ ◯ 4　　$5\times(9-8)$ ◯ 10

$6\times7-3$ ◯ 38　　$7\times8+9$ ◯ 63

四、按要求解答。（14分）

1. 改正下面计算中的错误。（6分）

$5+3\times4$　改正：

$=8\times4$

$=32$

$36-8\div4$　改正：

$=28\div4$

$=7$

荣德基好卷　微信公众号 教辅资料站　关注微信公众号“教辅资料站”获取更多学习资料

2. 先填空，再列出综合算式。(8 分)

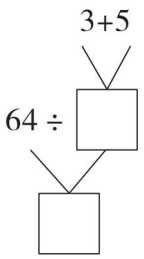

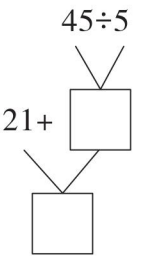

_____ _____

五、脱式计算。(每题 3 分，共 12 分)

$24 \div 3 \times 2$　　$42 - 8 \times 3$　　$(30 + 18) \div 6$　　$7 \times (8 \div 2)$

六、看图列式计算。(每题 8 分，共 16 分)



七、按要求填空。(18 分)

1. 在□里填上合适的数。(每题 3 分，共 12 分)

$5 \times 3 + \square = 25$　　$81 \div \square - 7 = 2$

$(3 + 6) \times \square = 45$　　$30 - \square \times 2 = 14$

2. 在○里填上“ + ”“ − ”“ × ”或“ ÷ ”。(每题 2 分，共 6 分)

$20 \bigcirc 4 \bigcirc 3 = 32$　　$20 \bigcirc 4 \bigcirc 3 = 19$　　$20 \bigcirc 4 \bigcirc 3 = 13$

荣德基好卷
微信公众号 教辅资料站
好卷

关注微信公众号“教辅资料站”获取更多学习资料



周测培优卷3

两步混合运算解决实际问题

班级_____ 姓名_____ 得分_____ 时间：40分钟 满分：100分

一、知识空格我会填。（每空3分，共21分）

1. 在9＋8×7这道题中，既有（　　）法，又有（　　）法，就要先算（　　）法，再算（　　）法，最后结果是（　　）。

2. 二年级（2）班有女生13人，男生17人，如果每5人一组做实验，那么可以分（　　）组，列一个综合算式是（　　）。

二、快乐做选择。（把正确答案的序号填在括号里）（每题5分，共10分）

1. 能使用算式“3×5＋2”表示的是（　　）。

① 　② 　③ 

2. 购买一杯果汁3元，购买一份糕点的价钱比购买4杯果汁的价钱少2元，求这份糕点的价钱是多少元，列式为（　　）。

①3×4＋2　　②3×4－2　　③2×4－3

三、脱式计算。（每题6分，共18分）

62－(24＋12)　　56÷(28－20)　　3＋6×9

四、解决问题。（10＋10＋11＋20＝51分）

1. 他们一共折了多少只？



荣德基好卷
微信公众号
教辅资料站

关注微信公众号“教辅资料站”获取更多学习资料

2. 100 名师生去研学旅游，46 人乘坐大客车，其余的都坐小车，需要多少辆小车？


大客车


限乘6人
小车

3. 幼儿园小班有 27 名男生，36 名女生，如果每 9 名幼儿需要 1 名老师，一共需要多少名老师？

4. 看图解答问题。


3元/个


8元/个

（1）买 4 个皮球，付了 50 元，应找回多少元？

（2）小明有 52 元钱，买了 5 个皮球，剩下的钱买羽毛球，能买多少个？

荣德基好卷

关注微信公众号“教辅资料站”获取更多学习资料



周测培优卷4

识别轴对称图形和方向

班级_____ 姓名_____ 得分_____ 时间：40分钟 满分：100分

一、知识空格我会填。（每空2分，共44分）

1. 下面的交通标志图案，哪些是对称的？是的在（　）里画“√”。



（　）（　）（　）（　）（　）（　）

2. 下面哪些图形是轴对称图形？是的在（　　）里画“√”。



（　）（　）（　）（　）（　）（　）

3. 把钟表平放在桌面上，用数字12正对着北方。正对着南方的是数字（　　），数字3正对着（　　）方，数字9正对着（　　）方。

4. 方向是相对的，想一想，填一填。



5. 小明和小立背对背站立，小明面向东方，小立面向（　　）方。

二、晶晶的一天。（每题10分，共30分）

1. 早晨起来，晶晶来到操场，她面对太阳站立，你能填出其他三个方向吗？

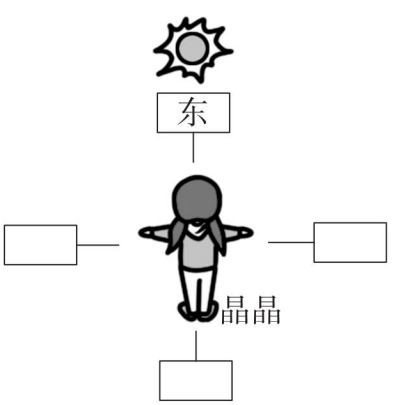

荣德基好卷

关注微信公众号“教辅资料站”获取更多学习资料

2. 傍晚，晶晶面对太阳，你能填出其他三个方向吗？

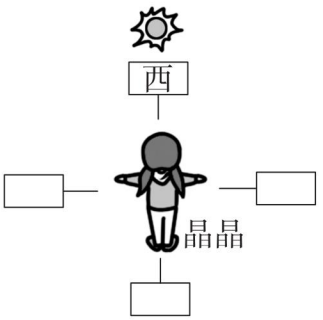

3. 晚上，晶晶面向北极星，你能填出其他三个方向吗？

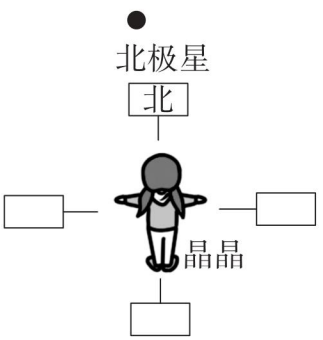

三、看图填空。（12 分）

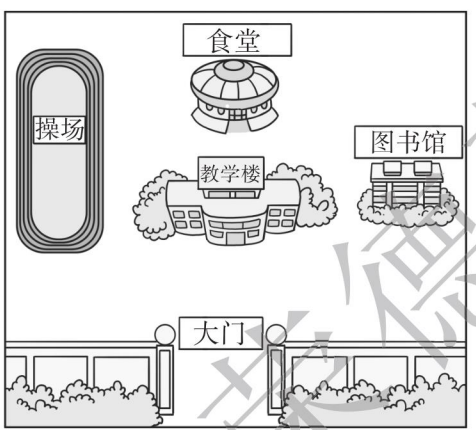

大门在校园的东面，图书馆在校园的_____面；校园的西面是_____；操场在校园的_____面。

四、观察下面的图形回答问题。（每题 7 分，共 14 分）

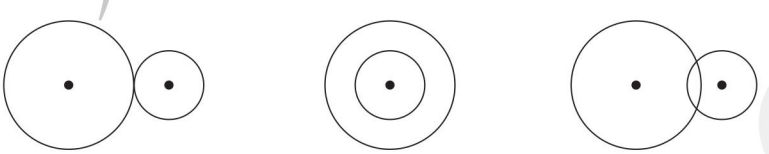

1. 哪些图形是轴对称图形？

2. 哪个图形无论怎样折叠，折痕两侧的部分都能够完全重合？

来德基好卷

关注微信公众号“教辅资料站”获取更多学习资料



周测培优卷5

数数、读数、写数

班级_____ 姓名_____ 得分_____ 时间：40分钟 满分：100分

一、知识空格我会填。（每空2分，共42分）

1. （　　）个一百是一千，10个（　　）是一万。

2. 写出已知数相邻着的数。

（　　）、2739、（　　）　　（　　）、5199、（　　）、（　　）

3. 右图计数器表示的这个数写作：（　　），读作：（　　）它是（　　）位数，最高位是（　　）位，最高位上的数是（　　），表示（　　）个千。

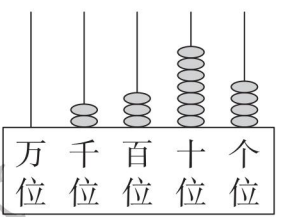

4. 下图这个数是由（　　）个千、（　　）个十和（　　）个一组成的，这个数写作：（　　），读作：（　　）。



5. 哥哥每月可以存200元钱，如果哥哥想买一部1000元的手机，需要存（　　）个月的钱。1包A4纸有500张，（　　）包是1000张，（　　）包是10000张。

二、操作题。（12+8+9+15+4=48分）

1. 7分别表示多少？用线连一连。

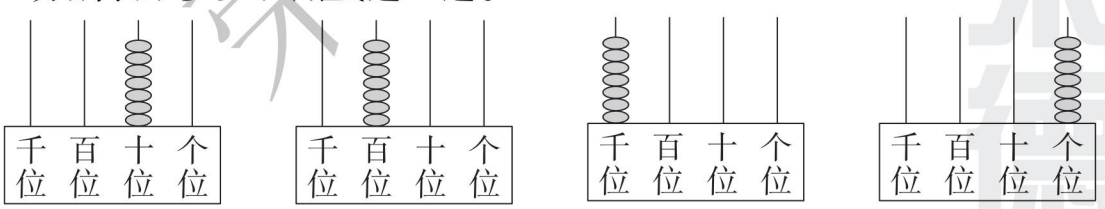

307　　754　　371　　7593

2. 读图填空。

（1）有多少块糖？



（　　）块

关注微信公众号“教辅资料站”获取更多学习资料

（2）有多少个▫？

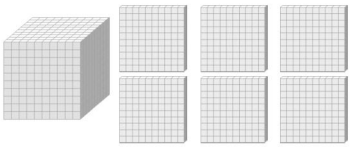

（　　）个

3. 找出蜻蜓身上的数字的排列规律后，再填数。

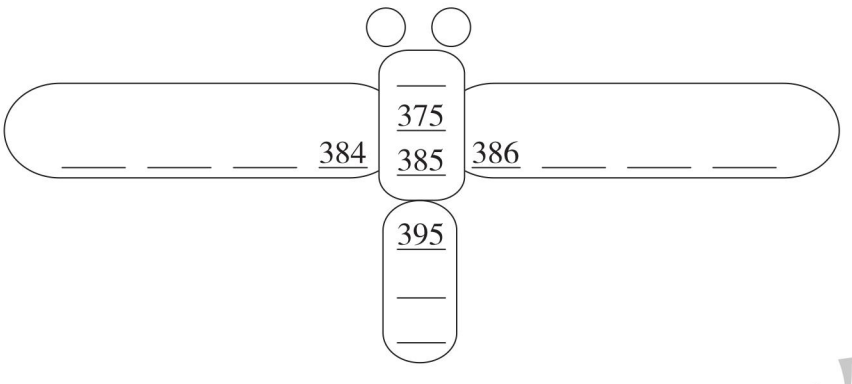

4. 在下面的空格中填上适当的数，再回答后面的问题。

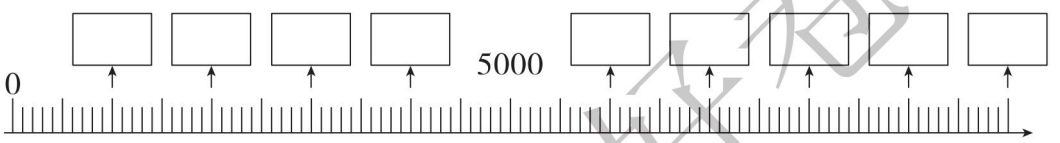

（1）图上的 1 小格表示（　　），10000 里面有（　　）个 100。

（2）在图中标出 2600、6400、8500 和 9800。

5. 已知△、☆、□和○分别表示 1000、100、10 和 1，分别写出下面各数，并读出来。

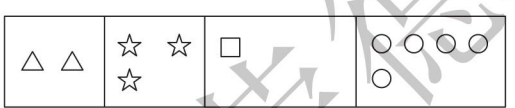

写作：（　　）

读作：（　　）

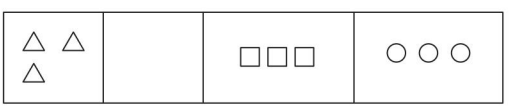

写作：（　　）

读作：（　　）

三、用 5、0、0、7 组成四位数。（每题 5 分，共 10 分）

1. 一个零也不读的四位数。

2. 只读一个零的四位数。

荣德基好卷

关注微信公众号“教辅资料站”获取更多学习资料

周测培优卷6

认识算盘、数的大小比较、数的估计

班级_____ 姓名_____ 得分_____ 时间：40分钟 满分：100分

一、知识空格我会填。（每空2分，共34分）

1. 认识算盘。

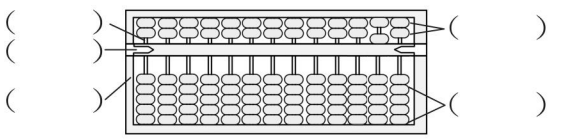

（1）算盘上每一档代表一个（ ），（ ）用空档表示。

（2）算盘上一个下珠表示（ ），一个上珠表示（ ）。

2. 写出算盘上的数。

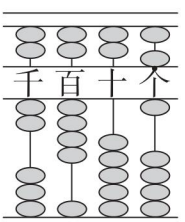

（ ）

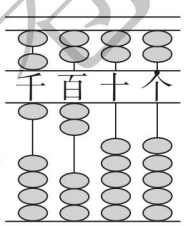

（ ）

3. 看图填一填。

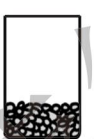

大约有（ ）粒。



大约有（ ）粒。



大约有400粒。

4. 从每组给出的五个数字中选出四个，组成最小的四位数和最大的四位数，填一填。

（1）8 7 6 4 2

最小：（ ）

最大：（ ）

（2）9 6 0 2 4

最小：（ ）

最大：（ ）

二、先在数线上标出各数，再比较大小。（4分）

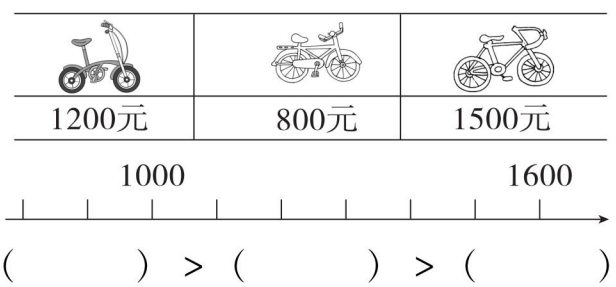

（ ）>（ ）>（ ）

关注微信公众号“教辅资料站”获取更多学习资料

三、在◯里填上“＞”“＜”或“＝”。（每题3分，共18分）

4785 ◯ 4758　　10个百◯一万　　789 ◯ 8999

4018 ◯ 4008　　10个百◯1000　　6001 ◯ 5999

四、马戏表演前进行抽奖活动，想一想，哪个数是获奖号码？画“√”。（4分）

获奖号码大于3000，小于4000，接近3500。

□ 2980　　□ 4001　　□ 3408　　□ 3920

五、比一比，填一填。（每空2分，共28分）

1. 将下面各数从小到大排列。

4738　　489　　3999　　4783　　4083

（　　）＜（　　）＜（　　）＜（　　）＜（　　）

2. □里最小填几？

674＜6□9　　356＜□23　　487＜□83

3. □里最大填几？

600＞□99　　495＞4□8　　898＞□89

4. 在□里填上合适的数字。

32□＞325　　5□7＜523　　706＞□01

六、读图填空。（12分）



1.（　　）家的书最多，（　　）家的书最少。

2. 用“多一些”、“多得多”、“少一些”、“少得多”填空。

乐乐家的书比明明家（　　）；乐乐家的书比冬冬家（　　）；

乐乐家的书比丁丁家（　　）；冬冬家的书比明明家（　　）。

荣德基好卷

关注微信公众号“教辅资料站”获取更多学习资料

周测培优卷7

用几百几十数加、减整百、整十数以及估算

班级_____ 姓名_____ 得分_____ 时间：40分钟 满分：100分

一、算一算，填一填。（每空2分，共32分）

570 + 60 = □　　410 + 80 = □　　630 − 50 = □　　710 − 30 = □

二、下面各数分别接近哪个整百、整千数？写在括号里。（8分）



中央广播电视塔高405米，接近（　　）米。

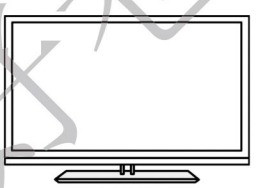

液晶电视3954元/台，接近（　　）元/台。

三、直接写得数。（每题3分，共36分）

670 − 600 =	500 + 230 =	518 + 98 ≈	460 + 230 =
380 + 130 =	730 − 80 =	904 − 599 ≈	890 − 240 =
320 + 400 =	530 + 200 =	860 + 70 =	760 − 80 =

四、解决问题。（每题6分，共24分）

1. 二年级（1）班折了462只纸鹤，二年级（2）班折了229只纸鹤。估一估两个班大约共折纸鹤多少只？

关注微信公众号“教辅资料站”获取更多学习资料

2. 谁吃的害虫最多？谁吃的害虫最少？相差多少只？



3. 五一期间，竞秀公园乘坐观光车的人数如下表：

5月1日	5月2日	5月3日
600人	750人	900人

（1）5月3日比5月1日多多少人乘坐观光车？

（2）5月2日和5月3日一共有多少人乘坐观光车？

4. 红星影院一号演播厅有530个座位，二号演播厅有460个座位，学校组织960名学生去看电影，座位够吗？

荣德基好卷

关注微信公众号“教辅资料站”获取更多学习资料



周测培优卷8

三位数加减三位数、连加

班级_____ 姓名_____ 得分_____ 时间：40分钟 满分：100分

一、填表。（每空4分，共12分）

被减数	579		996
减数		314	571
差	163	542	

二、用竖式计算并验算。（每小题6分，共24分）

827 − 405 =　　596 + 327 =

456 − 237 =　　147 + 258 =

三、用竖式计算。（每小题7分，共14分）

147 + 423 + 324 =　　368 + 172 + 249 =

荣德基好卷

关注微信公众号“教辅资料站”获取更多学习资料

四、解决问题。(15+15+20=50分)

1. 二人一共发了多少张宣传单?



2. 爸爸想买座椅、微波炉和豆浆机,大约需要多少元?



296元　　802元　　98元

3. 某校学生参加兴趣小组的人数如下:

	踢足球	画画	唱歌
人数	224	105	275

(1) 踢足球的和画画的一共有多少人?

(2) 唱歌的比画画的多多少人?

(3) 踢足球的再加上多少人就和唱歌的一样多了?

荣德基好卷

关注微信公众号"教辅资料站"获取更多学习资料



周测培优卷9

三位数减三位数的退位减法

班级_____ 姓名_____ 得分_____ 时间：40分钟 满分：100分

一、我会算。(72分)

1. 算一算。(每小题6分，共18分)

1 3 6	7 0 0	8 0 2
+2 5 3	−3 6 8	−3 6 7
□□□	□□□	□□□

2. 直接写得数。(每小题2分，共12分)

384 − 240 = 367 − 220 = 284 + 310 =

745 − 120 = 680 − 400 = 489 − 127 =

3. 按得数从小到大的顺序排列算式。(12分)

400 − 256　300 − 289　203 + 117　900 − 560

(　　) < (　　) < (　　) < (　　)

4. 用竖式计算，带※的要验算。(每题5分，共30分)

※900 − 623 = ※678 + 522 =

※257 + 698 = ※509 − 233 =

548 + 358 + 641 = 960 − 348 + 341 =

荣德基好卷

关注微信公众号“教辅资料站”获取更多学习资料

二、解决问题。(9+9+10=28分)

1. 从甲地到乙地，有山路和平路两条路线。

(1) 山路一共要走多少米？

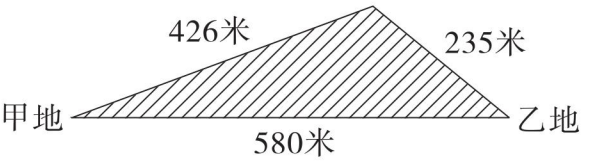

(2) 山路与平路相比，相差多少米？

2. 购物。

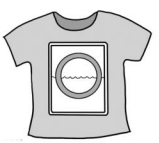
189元


402元


256元

(1) 妈妈买一辆自行车，付给收银员300元，找回多少元？

(2) 一件外套比一件短袖贵多少元？

3. 五、六年级的学生看足球比赛，已知五年级有413人，六年级有327人，足球场的座位数是900个。

(1) 估一估，足球场的座位数够吗？

(2) 全部学生入座后，还剩下多少个座位是空的？

荣德基好卷

关注微信公众号“教辅资料站”获取更多学习资料

周测培优卷10

用加减两步计算解决简单的、比多比少问题

班级_____ 姓名_____ 得分_____ 时间：40分钟 满分：100分

一、计算题。(32分)

1. 直接写得数。(16分)

78 − (33 + 26) =　　81 − 7 × 9 =

45 − (89 − 57) =　　(35 + 46) ÷ 9 =

2. 如果○ = 3、▽ = 6、☆ = 24，你能计算出下面算式的得数吗？(16分)

○ × ▽ + ☆ =　　○ + ☆ ÷ ▽ =

☆ ÷ (▽ − ○) =　　(☆ − ▽) ÷ ○ =

二、妈妈带100元去超市，买菜用去73元，买文具用去18元，还剩下多少元？(18分)

方法一：　　方法二：

荣德基好卷

三、看图解决问题。(10 + 10 = 20分)

1. 企鹅有多高？

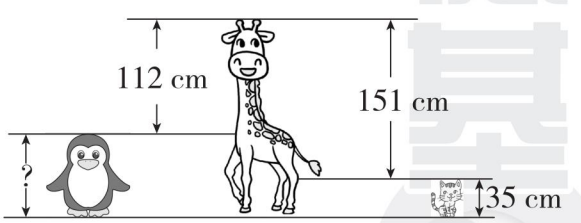

关注微信公众号“教辅资料站”获取更多学习资料

2. 买自行车和微波炉一共需要多少元？



四、解决问题。（每题 10 分，共 30 分）

1. 上山和下山一共走了多少米？



2. 学校组织实践活动，一年级有 159 人在划船，二年级划船的人数比一年级多 23 人，三年级划船的人数比二年级少 17 人，三年级划船的有多少人？

3. （1）丽丽看了多少页？



（2）如果亮亮再看 129 页，他还剩多少页没看？

荣德基好卷

关注微信公众号“教辅资料站”获取更多学习资料



周测培优卷11

千克与克的认识及单位换算

班级_____ 姓名_____ 得分_____ 时间：40分钟 满分：100分

一、知识空格我会填。（每空3分，共54分）

1. 计量比较轻的物品，常用（　　）做单位，用字母（　　）表示。如：一块橡皮约重30（　　）。计量比较重的物品，常用（　　）做单位，用字母表示为（　　），如：一个哈密瓜约重2（　　）。

2. 称一称，在（　）里填上香蕉和鱼的质量。

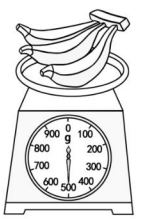

（　　）克



（　　）千克

3. 一袋盐重500克，两袋这样的盐重（　　）克，也就是（　　）千克。

4. 在◯里填上“＞”“＜”或“＝”。

3千克◯2990克　　1000克◯1千克

25千克◯250克　　2千克100克◯2000克

5. 在（　　）里填上合适的单位。

			
一个篮球约重640（　　）	一个乒乓球约重3（　　）	一辆自行车约重20（　　）	一盒粉笔约重85（　　）

二、快乐做选择。（把正确答案的序号填在括号里）（每题3分，共9分）

1. 1千克沙子的质量（　　）1000克棉花的质量。

①＞　　②＜　　③＝

2. 世界上最轻的鸟是蜂鸟，大约重（　　）克。

①2　　②100　　③200

3. 18个鸡蛋大约重1（　　）。

①克　　②米　　③千克

荣德基好卷

关注微信公众号“教辅资料站”获取更多学习资料

三、计算题。（每小题3分，共12分）

1000克－200克＝　　4千克－1000克＝

2千克＋500克＝　　2千克－600克＝

四、估计一下它们有多重，再用线连一连。（12分）






2千克　　20千克　　200千克　　200克

五、解决问题。（6＋7＝13分）

1. 4个杯子同样大，1号是空杯，重240克，2号杯子和橙汁共重300克，估计3号、4号杯里的橙汁各约重多少克？

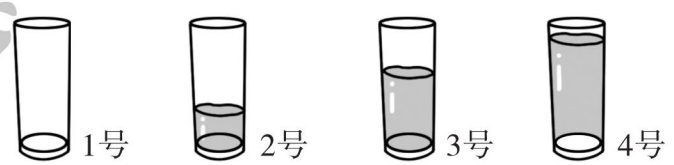

240克　　300克　　？克　　？克

2. 想一想，要买300 g巧克力，怎么买便宜？便宜多少元？

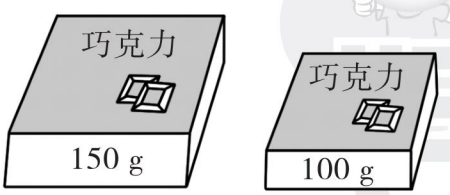

8元/盒　　6元/盒

荣德基好卷

关注微信公众号“教辅资料站”获取更多学习资料

周测培优卷 12

时、分、秒的认识及应用

班级_____ 姓名_____ 得分_____ 时间：40分钟 满分：100分

一、知识空格我会填。（每空 2 分，共 60 分）

1. 钟面上较短的针是（　　）针，较长的针是（　　）针。
2. 钟面上有（　　）个大格，有（　　）个小格。时针走 1 大格是（　　）时，分针走 1 小格是（　　）分，走 1 大格是（　　）分。
3. 分针走 1 圈是（　　）分钟，这时时针走 1 大格，正好是 1 小时，所以 1 时 = （　　）分。
4. 读图填空。

（1）



（　　）时（　　）分



（　　）时（　　）分

（2）

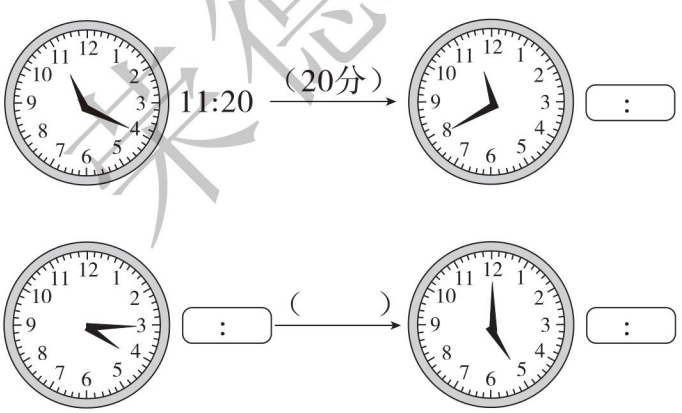

5. 填一填。



一分钟大约拍____下。



一分钟大约写____遍“你好”两字。



我的心跳1分钟大约是____下。

荣德基好卷

关注微信公众号“教辅资料站”获取更多学习资料

6. 我会算。

60 分 = （　　）时　　2 时 10 分 = （　　）分

180 秒 = （　　）分　　80 分 = （　　）时（　　）分

90 秒 = （　　）分（　　）秒　　3 时 = （　　）分

二、在括号里填上合适的单位。（每题 2 分，共 12 分）

1. 一节课是 40（　　）。
2. 芳芳做 5 道口算题用了 20（　　）。
3. 刷一次牙大约用 3（　　）。
4. 脉搏跳动 10 次大约用 8（　　）。
5. 小明夏天午睡大约用 1（　　）。
6. 小芳跑 100 米大约需要 20（　　）。

三、画出下面各钟面缺少的分针和时针。（12 分）



4 : 20



6 : 45



12 : 00



1 : 05

四、解决问题。（6 +10 =16 分）

1. 亮亮和晶晶进行 400 米赛跑，亮亮用了 1 分 20 秒，晶晶用了 85 秒，谁跑得快？快多少秒？

2. 右图是周末上午的停电时间。

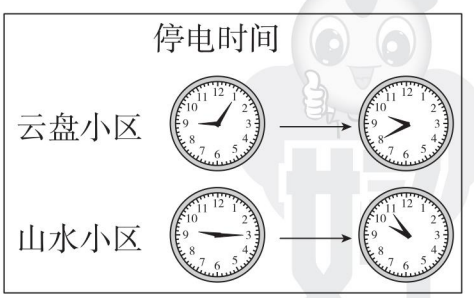

（1）哪个小区的停电时间长？

（2）亮亮 9: 30 回家，发现家里停电。他在家等了 25 分钟才恢复供电。你知道他住在哪个小区吗？为什么？

荣德基好卷

关注微信公众号“教辅资料站”获取更多学习资料



周测培优卷13

数据的收集和整理、分析与推理

班级_____ 姓名_____ 得分_____ 时间：40分钟 满分：100分

一、知识空格我会填。（每空3分，共30分）

1. 下面是二（1）班竞选班长时的投票情况统计表。

姓名	李林	王向东	王小红	刘思思
票数	正正	正	正正丁	正一

（1）每个“正”字表示（　　）名同学投票。

（2）每名同学只能投一票，则全班共有（　　）人。

（3）我认为应该选（　　）当班长，（　　）当副班长。

2. 甲、乙、丙三人进行跳绳比赛，甲比乙跳得多，丙比甲跳得少，丙比乙跳得多。他们三人中，（　　）跳得最多，（　　）跳得最少。

3. 小红、小明、小刚、小华四名同学比身高，小红比小明高，小明比小刚高，小华最高。这四名同学的身高按由矮到高的顺序排列是：（　　）<（　　）<（　　）<（　　）。

二、按要求回答问题。（12+8=20分）



1. 照样子画一画，并填一填。



（　　）个　（　　）个　（　　）个　（　　）个

荣德基的卷

关注微信公众号“教辅资料站”获取更多学习资料

2. 哪两种图形的数量同样多？

三、下面是四个三年级小学生跑 100 米的成绩。（12 分）

姓名	小芳	小丽	小军	小伟
成绩	16 秒	20 秒	17 秒	18 秒

谁跑得最快？谁跑得最慢？慢多少？

四、黑兔、白兔和灰兔进行赛跑，黑兔说：“我不是最快的，但比白兔快。”请你猜一猜，谁跑得最快？谁跑得最慢？（12 分）

五、读儿歌，回答下面的问题。（12 +8 +6 =26 分）

小螺号

小螺号，嘀嘀嘀吹。　　声声唤船归啰。
海鸥听了展翅飞。　　小螺号，嘀嘀嘀吹。
小螺号，嘀嘀嘀吹。　　阿爸听了快快回啰。
浪花听了笑微微。　　茫茫的海滩，蓝蓝的海水。
小螺号，嘀嘀嘀吹。　　吹起了螺号，心里美吔。

1. 用画“正”字的方法统计下面各字出现的次数。

小	螺	号	吹

2. 根据上面的统计表可以知道，（　　）字和（　　）字、（　　）字和（　　）字出现的次数同样多。
3. “螺”字和“号”字一共出现了（　　）次。

关注微信公众号“教辅资料站”获取更多学习资料

参考答案及点拨（小卷）

周测培优卷 1

有余数的除法和探索规律

一、1. 9　1

2. 4　2　3　4　2　圈一圈略。　3. □

4. 26 ÷ 4 = 6 …… 2

$$\begin{array}{r} 6 \\ 4\overline{)\,2\;6} \\ \underline{2\;4} \\ 2 \end{array}$$

想：4和（6）相乘的积最接近26，而且小于26。

5. 2……2　3……3　3……3　3……2

余数是2：8 ÷ 3　17 ÷ 5

余数是3：15 ÷ 4　21 ÷ 6

6. 4　1　小

7. 4　7　8

二、×　$\begin{array}{r} 7 \\ 2\overline{)\,1\;5} \\ \underline{1\;4} \\ 1 \end{array}$　　×　$\begin{array}{r} 7 \\ 5\overline{)\,3\;6} \\ \underline{3\;5} \\ 1 \end{array}$

三、7……4　5……5　7……6　9……1

$\begin{array}{r} 7 \\ 9\overline{)\,6\;7} \\ \underline{6\;3} \\ 4 \end{array}$　$\begin{array}{r} 5 \\ 8\overline{)\,4\;5} \\ \underline{4\;0} \\ 5 \end{array}$　$\begin{array}{r} 7 \\ 7\overline{)\,5\;5} \\ \underline{4\;9} \\ 6 \end{array}$　$\begin{array}{r} 9 \\ 3\overline{)\,2\;8} \\ \underline{2\;7} \\ 1 \end{array}$

四、1. 20 ÷ 4 = 5（组）

答：第20面彩旗是绿色的。

34 ÷ 4 = 8（组）……2（面）

答：第34面彩旗是黄色的。

2. 33 ÷ 5 = 6（件）……3（个）

答：可以钉6件衣服，还剩下3个。

3. 48 ÷ 7 = 6（盘）……6（个）

6 ÷ 2 = 3（盘）

答：可以装6大盘，3小盘。

周测培优卷 2

两步混合运算

一、1. 24　12　8　6

2. 乘　除　加　减　小括号

3. 12　4. 6

二、1. ②　2. ③

三、=　<　>　>

四、1.
$$\begin{aligned} &5+3\times4 \\ &=5+12 \\ &=17 \end{aligned}$$
$$\begin{aligned} &36-8\div4 \\ &=36-2 \\ &=34 \end{aligned}$$

2. 8　8　64 ÷ (3 + 5) = 8

9　30　21 + 45 ÷ 5 = 30

五、
$$\begin{aligned} &24\div3\times2 \\ &=8\times2 \\ &=16 \end{aligned}$$
$$\begin{aligned} &42-8\times3 \\ &=42-24 \\ &=18 \end{aligned}$$
$$\begin{aligned} &(30+18)\div6 \\ &=48\div6 \\ &=8 \end{aligned}$$
$$\begin{aligned} &7\times(8\div2) \\ &=7\times4 \\ &=28 \end{aligned}$$

六、45 + 4 × 9 = 81（元）

(100 − 80) ÷ 4 = 5（元）

七、1. 10　9　5　8

2. +　×　−　+　−　−

周测培优卷 3

两步混合运算解决实际问题

一、1. 加　乘　乘　加　65

2. 6　(13 + 17) ÷ 5 = 6（组）

二、1. ③　2. ②

三、
$$\begin{aligned} &62-(24+12) \\ &=62-36 \\ &=26 \end{aligned}$$
$$\begin{aligned} &56\div(28-20) \\ &=56\div8 \\ &=7 \end{aligned}$$
$$\begin{aligned} &3+6\times9 \\ &=3+54 \\ &=57 \end{aligned}$$

四、1. 3 × 7 + 12 = 33（只）

答：他们一共折了33只。

2. (100 − 46) ÷ 6 = 9（辆）

答：需要9辆小车。

3. (27 + 36) ÷ 9 = 7（名）

答：一共需要7名老师。

4. （1）50 − 8 × 4 = 18（元）

答：应找回18元。

（2）52 − 8 × 5 = 12（元）

12 ÷ 3 = 4（个）

答：能买4个。

关注微信公众号“教辅资料站”获取更多学习资料

周测培优卷4

识别轴对称图形和方向

一、1. 

（√）（√）（ ）

（√）（ ）（√）

2. 

（ ）（√）（ ）

（√）（√）（ ）

3. 6　东　西

4. 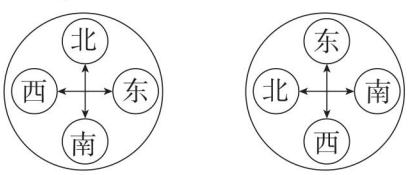

5. 西

二、1. 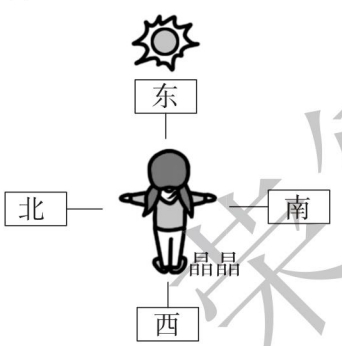

2. 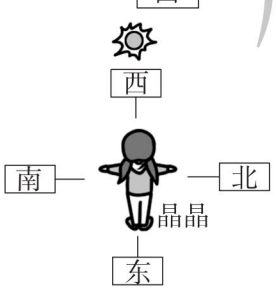

3. 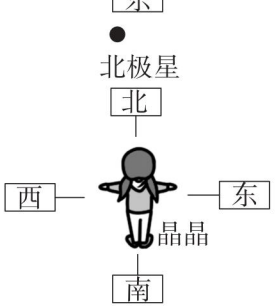

三、北　食堂　南

四、1. ①②③　2. ②

周测培优卷5

数数、读数、写数

一、1. 10　一千

2. 2738　2740　5198　5200　5201

3. 2374　二千三百七十四　四　千　2　2

4. 2　1　2　2012　二千零一十二

5. 5　2　20

二、1. 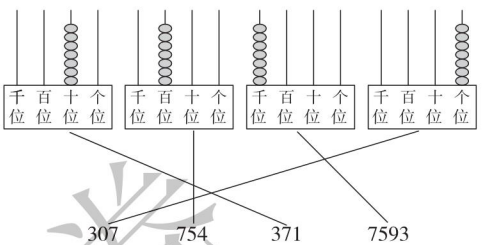

2. （1）2103

（2）1625

3. 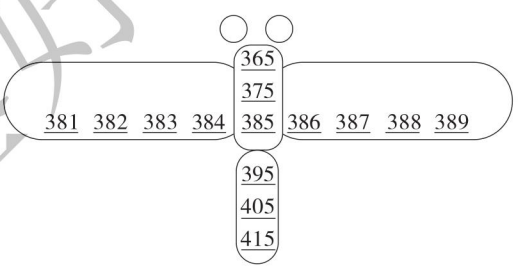

4. 1000　2000　3000　4000　6000
7000　8000　9000　10000

（1）100　100

（2）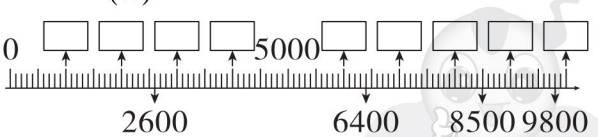

5. 2315　二千三百一十五

3033　三千零三十三

三、1. 5700　7500　2. 5007　7005　7050
5070

周测培优卷6

认识算盘、数的大小
比较、数的估计

一、1. 档　梁　框　上珠　下珠

（1）数位　0

荣德基好卷

关注微信公众号“教辅资料站”获取更多学习资料

（2）1　5

2. 2406　6200

3. 100　200

4. （1）2467　8764　（2）2046　9642

二、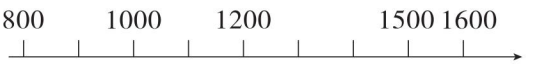

1500　1200　800

三、>　<　<　>　=　>

四、√　3408

五、1. 489　3999　4083　4738　4783

2. 7　4　5　3. 5　8　8

4. 6　1　7　（答案不唯一）

六、1. 冬冬　明明

2. 多一些　少得多　少一些　多得多

周测培优卷7

用几百几十数加、减整百、整十数以及估算

一、500　70　130　630　400　10　90

490　530　100　50　580　610

100　70　680

二、400　4000

三、70　730　600　690　510　650　300

650　720　730　930　680

四、1. 462＋229≈700（只）

答：两个班大约共折纸鹤700只。

2. 140＋80＝220（只）

答：大宝吃的害虫最多，二宝吃的害虫最少。相差220只。

点拨：大宝比妈妈多吃的害虫只数加上二宝比妈妈少吃的害虫只数，就是大宝比二宝多吃的害虫只数。

3. （1）900－600＝300（人）

答：5月3日比5月1日多300人乘坐观光车。

（2）750＋900＝1650（人）

答：5月2日和5月3日一共有1650人乘坐观光车。

4. 530＋460＝990（个）　990＞960

答：座位够。

周测培优卷8

三位数加减三位数、连加

一、416　856　425

二、422　827 − 405 = 422　验算：422 + 405 = 827

923　596 + 327 = 923　验算：923 − 327 = 596

219　456 − 237 = 219　验算：219 + 237 = 456

405　147 + 258 = 405　验算：405 − 147 = 258

三、894　147 + 423 + 324 = 894　789　368 + 172 + 249 = 789

四、1. 165＋134＝299（张）

答：二人一共发了299张宣传单。

2. 296＋802＋98≈1200（元）

答：大约需要1200元。

3. （1）224＋105＝329（人）

答：踢足球的和画画的一共有329人。

（2）275－105＝170（人）

答：唱歌的比画画的多170人。

（3）275－224＝51（人）

答：踢足球的再加上51人就和唱歌的一样多了。

周测培优卷9

三位数减三位数的退位减法

一、1. 389　332　435

2. 144　147　594　625　280　362

3. 300－289　400－256　203＋117

900－560

4. 277　900 − 623 = 277　验算：277 + 623 = 900

1200　678 + 522 = 1200　验算：1200 − 678 = 522

关注微信公众号“教辅资料站”获取更多学习资料

955　257 + 698 = 955　验算：955 − 698 = 257

276　509 − 233 = 276　验算：276 + 233 = 509

1547　548 + 358 + 641 = 1547

953　960 − 348 + 341 = 953

二、1. （1）426 + 235 = 661（米）

答：山路一共要走 661 米。

（2）661 − 580 = 81（米）

答：山路与平路相比，相差 81 米。

2. （1）300 − 256 = 44（元）

答：找回 44 元。

（2）402 − 189 = 213（元）

答：一件外套比一件短袖贵 213 元。

3. （1）413 + 327 ≈ 750（人）

750 < 900

答：座位数够。

（2）900 − 413 − 327 = 160（个）

答：还剩下 160 个座位是空的。

周测培优卷 10

用加减两步计算解决简单的、比多比少问题

一、1. 19　18　13　9　2. 42　7　8　6

二、方法一：100 − (73 + 18) = 9（元）

答：还剩下 9 元。

方法二：100 − 73 − 18 = 9（元）

答：还剩下 9 元。

三、1. 151 + 35 − 112 = 74（cm）

答：企鹅高 74 cm。

2. 460 + 460 + 120 = 1040（元）

答：买自行车和微波炉一共需要 1040 元。

四、1. 235 + 235 − 85 = 385（米）

答：上山和下山一共走了 385 米。

2. 159 + 23 − 17 = 165（人）

答：三年级划船的有 165 人。

3. （1）303 + 98 − 127 = 274（页）

答：丽丽看了 274 页。

（2）500 − 303 − 129 = 68（页）

答：他还剩 68 页没看。

周测培优卷 11

千克与克的认识及单位换算

一、1. 克　g　g　千克　kg　kg

2. 500　1　3. 1000　1

4. >　=　>　>

5. 克　克　千克　克

二、1. ③　2. ①　3. ③

三、800 克　3 千克或 3000 克　2500 克　1400 克

四、



五、1. 300 − 240 = 60（克）

60 + 60 = 120（克）

60 + 60 + 60 = 180（克）

答：3 号杯里的橙汁约重 120 克，4 号杯里的橙汁约重 180 克。

点拨：求出 2 号杯里的橙汁重多少克是解题关键。

2. 150 + 150 = 300（g）

8 × 2 = 16（元）

100 + 100 + 100 = 300（g）

6 × 3 = 18（元）

16 < 18　18 − 16 = 2（元）

答：买 2 盒大盒的巧克力便宜，便宜 2 元。

周测培优卷 12

时、分、秒的认识及应用

一、1. 时　分

2. 12　60　1　1　5

关注微信公众号“教辅资料站”获取更多学习资料

3. 60　60

4. （1）11　5　11∶05　12　55

12∶55

（2）11∶40　4∶15　45分　5∶00

5. 40　10　80（答案不唯一，合理即可）

6. 1　130　3　1　20　1　30　180

二、1. 分钟　2. 秒　3. 分钟　4. 秒

5. 小时　6. 秒

三、



4∶20



6∶45



12∶00



1∶05

四、1. 1分20秒＝80秒　80＜85

85－80＝5（秒）

答：亮亮跑得快，快5秒。

2. （1）云盘小区：从9∶05到9∶40过了35分钟。

山水小区：从9∶15到9∶55过了40分钟。

35＜40

答：山水小区的停电时间长。

（2）9∶30再过25分钟就是9∶55。

答：他住在山水小区。

周测培优卷13

数据的收集和整理、分析与推理

一、1.（1）5　（2）33　（3）王小红　李林

2. 甲　乙

3. 小刚　小明　小红　小华

二、1.

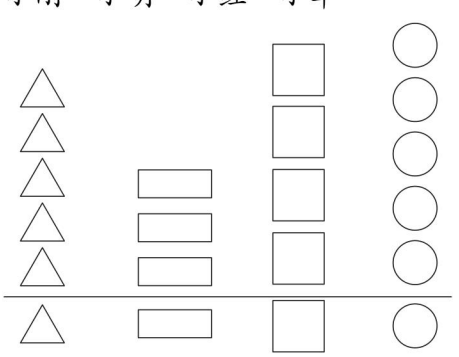

（ 5 ）个　（ 3 ）个　（ 4 ）个　（ 5 ）个

2. 三角形和圆的数量同样多。

三、16＜17＜18＜20　20－16＝4（秒）

答：小芳跑得最快，小丽跑得最慢，慢4秒。

四、灰兔跑得最快，白兔跑得最慢。

五、1.

小	螺	号	吹
正	正一	正一	正

2. 吹　小　螺　号

3. 12

期末总复习

专项提升卷1　有余数的除法和混合运算

1.（1）1　4　（2）1　49　7　55

2.（1）×　（2）×　（3）√

3. 13÷4＝3……1

（答案不唯一，合理即可）

4. 39÷7＝5（根）……4（米）

答：这卷绳子可以做5根这样的晾衣绳，还剩4米。

5. 19÷3＝6（个）……1（根）

答：下面这些小棒可以搭6个三角形。

6. 35÷4＝8（次）……3（块）

答：方方分到最后一块。

7. 39÷6＝6（辆）……3（人）

6＋1＝7（辆）

答：他们至少需要租7辆车。

8.（1）×　　（2）×

改正：8＋16÷8　　改正：（10－5）×2

＝8＋2　　＝5×2

＝10　　＝10

9. 36÷4＋4＝13（个）

答：一共需要表演13个节目。

10.（50－20）÷5＝6（本）

答：还可以买6本笔记本。

期末总复习

专项提升卷2　大数的认识与解决问题

1. 2040　二千零四十　2140　二千一百四十

1056　一千零五十六

关注微信公众号“教辅资料站”获取更多学习资料

2. 6640　4066

3. ×　×　√

4. (1) 30

(2) 800　830　840　860

860　840　830　800

5. 小明　小刚　小兰

6. 565

$$\begin{array}{r} 326 \\ +239 \\ \hline 565 \end{array}$$

319

$$\begin{array}{r} 538 \\ -219 \\ \hline 319 \end{array}$$

验算：

$$\begin{array}{r} 319 \\ +219 \\ \hline 538 \end{array}$$

447

$$\begin{array}{r} 903 \\ -456 \\ \hline 447 \end{array}$$

验算：

$$\begin{array}{r} 447 \\ +456 \\ \hline 903 \end{array}$$

614

$$\begin{array}{r} 740 \\ -126 \\ \hline 614 \end{array}$$

验算：

$$\begin{array}{r} 614 \\ +126 \\ \hline 740 \end{array}$$

7. (1) 168 + 242 + 69 = 479 (个)

(2) 289 + 182 + 346 = 817 (箱)

8. 900 − 315 + 345 = 930 (本)

答：新购进漫画书 930 本。

期末总复习

专项提升卷 3　量与计量、数学百花园

1. 2000　3　2200　4　100

2. 9 + 9 = 18 (千克)

答：懒羊羊重 18 千克。

3. (1) 5　8　4

(2) 买 5 个苹果，8 个桃子，4 个萝卜。(答案不唯一)

4. 500 + 500 = 1000 (克)

5 × 2 = 10 (元)

500 + 500 + 500 + 500 = 2000 (克)

8 × 4 = 32 (元)

10 + 32 = 42 (元)

答：买 1 千克桃和 2 千克葡萄共要 42 元钱。

5. 192　1　30　4　1　15

6. (1) 3∶05　40　3∶45

(2) 4　30

7. 8　7　6

8.

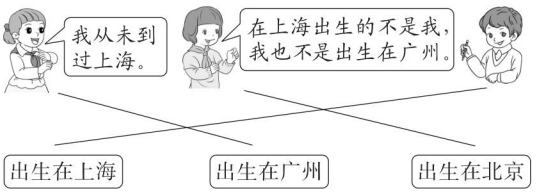

期末总复习

题型突破卷 1　填空题

1. 6

2. 4

3. 2 (1—5 的数都可以)　5

4. ◎　△

5. 3　18　8　4

6. ÷　×　−　+

7. (42 − 35) × 8 = 56

8. ②

9. 东　南

10. 3033　三千零三十三

11. 900　901　903　904

897 (最后一空答案不唯一)

12. 3050　3005　5030　5003　5300

3500

13. 5000　300

14. 23

15. 转笔刀　1

16. 荣荣

17. <　=　>

18. 300　6　3000　2　80　3

19. 6∶15　20　6∶35

期末总复习

题型突破卷 2　选择题

1. ③　2. ①　3. ③　4. ②

5. ①　6. ②　7. ②　8. ③

9. ③　10. ③　11. ③

12. ②　13. ①

14. ②　**点拨：**要装完所有大米，余下的 2 千克也要用一个袋子。

15. ①　16. ②　17. ①

18. ①

荣德基好卷

关注微信公众号“教辅资料站”获取更多学习资料

期末总复习

题型突破卷3　计算题（一）

1. 5……1　5……2　4……6　8……1
   4……2　7……2

2. ×　改正：
$$\begin{array}{r} 6 \\ 6\overline{)37} \\ 36 \\ \hline 1 \end{array}$$
   ×　改正：
$$\begin{array}{r} 7 \\ 9\overline{)70} \\ 63 \\ \hline 7 \end{array}$$

3. 4……3　4……3　8……3
$$\begin{array}{r} 4 \\ 5\overline{)23} \\ 20 \\ \hline 3 \end{array}\quad\begin{array}{r} 4 \\ 4\overline{)19} \\ 16 \\ \hline 3 \end{array}\quad\begin{array}{r} 8 \\ 5\overline{)43} \\ 40 \\ \hline 3 \end{array}$$
   5……3　4……3　4……2
$$\begin{array}{r} 5 \\ 9\overline{)48} \\ 45 \\ \hline 3 \end{array}\quad\begin{array}{r} 4 \\ 8\overline{)35} \\ 32 \\ \hline 3 \end{array}\quad\begin{array}{r} 4 \\ 7\overline{)30} \\ 28 \\ \hline 2 \end{array}$$

4. 7　38　9　4　24　56

5. 72　49　7　63

6. $18+42\div6$　　$60-40\div5$
   $=18+7$　　$=60-8$
   $=25$　　$=52$
   $20+3\times5$　　$63-63\div7$
   $=20+15$　　$=63-9$
   $=35$　　$=54$
   $68-72\div8$　　$81\div9+2$
   $=68-9$　　$=9+2$
   $=59$　　$=11$

7. 10　9　5　4　11　2

8. 13　24　$(13-7)\times4=24$
   6　4　$36\div(15-6)=4$

9. 11　6

10. $(14+7)\div3$
    $=21\div3$
    $=7$
    $4\times(16-9)$
    $=4\times7$
    $=28$
    $63\div(46-37)$
    $=63\div9$
    $=7$

11. （1）不正确 $105-(17+23)=65$
    （2）不正确 $(3+4)\times5=35$

期末总复习

题型突破卷4　计算题（二）

1. 500　700　400　400

2. （1）5　4　（答案不唯一）
   （2）0　9　（答案不唯一）

3. $\begin{array}{r} 206 \\ +5_{1}9_{1}8 \\ \hline 804 \end{array}$　$\begin{array}{r} \dot{4}\dot{2}0 \\ -265 \\ \hline 155 \end{array}$

4. $\begin{array}{r} 1\boxed{1}6 \\ +\boxed{6}\boxed{2}\boxed{6} \\ \hline 742 \end{array}$　$\begin{array}{r} 9\boxed{2}3 \\ -\boxed{5}\boxed{5}6 \\ \hline 36\boxed{7} \end{array}$　$\begin{array}{r} 3\boxed{5}6 \\ -\boxed{1}\boxed{8}\boxed{8} \\ \hline 168 \end{array}$

5. 570　190　400　80　700　340

6. 488　134　297　645

7. =　<　>　>

8. 901　$\begin{array}{r} 596 \\ +3_{1}0_{1}5 \\ \hline 901 \end{array}$　验算：$\begin{array}{r} \dot{9}\dot{0}1 \\ -305 \\ \hline 596 \end{array}$

   289　$\begin{array}{r} \dot{9}\dot{6}8 \\ -679 \\ \hline 289 \end{array}$　验算：$\begin{array}{r} 289 \\ +6_{1}7_{1}9 \\ \hline 968 \end{array}$

   266　$\begin{array}{r} \dot{5}\dot{4}1 \\ -275 \\ \hline 266 \end{array}$

   1357　$\begin{array}{r} 257 \\ +432 \\ \hline 689 \end{array}$　$\begin{array}{r} 689 \\ +6_{1}6_{1}8 \\ \hline 1357 \end{array}$

   354　$\begin{array}{r} 867 \\ -164 \\ \hline 703 \end{array}$　$\begin{array}{r} \dot{7}\dot{0}3 \\ -349 \\ \hline 354 \end{array}$

   164　$\begin{array}{r} 379 \\ +2_{1}2_{1}1 \\ \hline 600 \end{array}$　$\begin{array}{r} \dot{6}\dot{0}0 \\ -436 \\ \hline 164 \end{array}$

9. $67+138=205$　$62+76=138$
   $138-62=76$　$205-67=138$（答案不唯一）

10. 5　1　2

荣德基好卷

关注微信公众号“教辅资料站”获取更多学习资料

期末总复习

题型突破卷5　操作探索题

1. √　×　×　×　√　√

2. ①②③⑥⑦

3. ③

4. 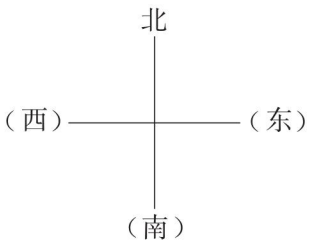

5. （1）东　西　北　南

   （2）南　北　东

6. 东　南　西

7. （1）3　4　12　1

   （2）12　8

   （3）12 －（3 ＋4）＝5（人）

   答：肥胖和超重的总人数比正常体重的人数少5人。

期末总复习

题型突破卷6　应用题（一）

1. 45 ÷8 ＝5（个）……5（个）

   5 ＋1 ＝6（个）

   答：至少需6个盒子才能装完。

2. 26 ÷6 ＝4（束）……2（枝）

   10 ÷2 ＝5（束）

   20 ÷3 ＝6（束）……2（枝）

   4 ＜5 ＜6

   答：这些花最多可以扎成4束这样的花束。

3. 18 ÷5 ＝3（组）……3（个）

   答：第18个图形是。

   3 ×2 ＋2 ＝8（个）

   答：前18个图形中△有8个。

4. 24 ＋3 ×7 ＝45（元）

   答：一共需要45元。

5. （60 －25）÷5 ＝7（棵）

   答：每个小组要植7棵树。

6. 149 ＋169 ＝318（元）

   109 ＋169 ＝278（元）

   278 ＜300 ＜318

   300 －278 ＝22（元）

   答：应该买②号和③号衣服，还剩下22元。

7. 245 ＋267 ＋470 ＝982（米）

   145 ＋326 ＋188 ＝659（米）

   319 ＋445 ＋228 ＝992（米）

   659 ＜982 ＜992

   答：走B路线最近。

8. （1）903 －326 ＝577（本）

   答：故事书有577本。

   （2）568 ＋380 ＝948（本）

   答：漫画书有948本。

期末总复习

题型突破卷7　应用题（二）

1. （1）693 －215 －193 ＝285（米）

   或693 －（215 ＋193）＝285（米）

   （2）60 ＋13 －28 ＝45（箱）

2. 132 －59 ＋25 ＝98（辆）

   答：*C*品牌汽车有98辆。

3. 12 ÷2 ＝6（条）　12 ＋6 ＝18（条）

   18 ＋18 ＝36（条）

   答：张叔叔一共钓了36条。

4. 24 ＋18 ＋24 ＝66（千克）

   答：爸爸的体重是66千克。

5. （25 ＋20）÷5 ＝9（千克）

   答：每个班分到9千克。

6. 电影院9：15开始进场。

7. 程琳是第一名，王晨是第二名，李响是第三名。

来德基好卷

关注微信公众号“教辅资料站”获取更多学习资料