主　　编：荣德基
本册主编：刘洪志



二年级 数学（下）

（BJ 版）



吉林教育出版社



目录

同步跟踪检测卷

大卷 单元卷 · 模块卷 · 仿真卷

单元检测卷 （7套）

第一单元跟踪检测卷 …… 1
第二、三单元跟踪检测卷 …… 5
第四单元跟踪检测卷 …… 9
期中跟踪检测卷 …… 13
第五单元跟踪检测卷 …… 17
第六、七单元跟踪检测卷 …… 21
第八、九、十单元跟踪检测卷 …… 25

期末复习冲刺卷

模块过关卷 （2套）

数与代数　统计 …… 29
图形与几何 …… 33

仿真模拟卷 （4套）

仿真模拟卷（一） …… 37
仿真模拟卷（二） …… 41
仿真模拟卷（三） …… 45
仿真模拟卷（四） …… 49
参考答案及点拨 …… 53

小卷 周测卷 · 专项卷 · 题型卷

周测培优卷 （13套）

◆有余数的除法和探索规律 …… 01
◆两步混合运算 …… 03
两步混合运算解决实际问题 …… 05
◆识别轴对称图形和方向 …… 07
◆数数、读数、写数 …… 09
认识算盘、数的大小比较、数的估计 …… 11
◆用几百几十数加、减整百、整十数以及估算 …… 13
三位数加减三位数、连加 …… 15
三位数减三位数的退位减法 …… 17
◆用加减两步计算解决简单的、比多比少问题 …… 19
◆千克与克的认识及单位换算 …… 21
◆时、分、秒的认识及应用 …… 23
◆数据的收集和整理、分析与推理 …… 25

专项提升卷 （3套）

有余数的除法和混合运算 …… 27
大数的认识与解决问题 …… 29
量与计量、数学百花园 …… 31

题型突破卷 （7套）

填空题 …… 33
选择题 …… 35
计算题（一） …… 37
计算题（二） …… 39
操作探索题 …… 41
应用题（一） …… 43
应用题（二） …… 45
参考答案及点拨 …… 47

好卷　全面测评　环环相扣有抓手
专项突破　重难易错不失分

荣德基
微信公众号
教辅资料站
关注微信公众号“教辅资料站”获取更多学习资料

姓名 学号 班级 学校

密 封 线

豆点提示：请不要在密封线内答题哦！

第五单元 跟踪检测卷

万以内数的加法和减法

时间：60 分钟　满分：100 +10 分

题号	一	二	三	四	五	六	附加题	总分
得分								

一、知识空格我会填。（每空 2 分，共 30 分）

1. 一个数是 345，另一个数是 276，它们的和是（　　），差是（　　）。
2. 学校购进故事书 302 本，连环画 197 本，估一估，学校大约购进（　　）本新书，新购进的故事书大约比连环画多（　　）本。
3. 在◯里填上“＞”“＜”或“＝”。

200 + 699 ◯ 900　　600 ◯ 1000 − 452

514 − 28 ◯ 405 + 52　　152 + 29 ◯ 152 − 29

358 + 957 ◯ 957 + 358　　151 + 102 ◯ 300 − 47

4. 填一填。

（1）一年级人数接近（　　）人，二年级大约有（　　）人。

（2）一、二年级大约共有（　　）人，一年级比二年级大约多（　　）人。

（3）两个年级大约共有的人数与实际的人数相差（　　）人。

一、二年级人数统计表

年级	人数（人）
一年级	326
二年级	192

二、快乐做选择。（把正确答案的序号填在括号里）（每题 2 分，共 6 分）

1. 340 与 150 的和是（　　）。

①393　　②490　　③187

2. 如右图，现在这台风扇的价格比原价便宜了（　　）钱。



原价620元
现价489元

①131 元　　②149 元　　③49 元

3. 冷饮店上午卖出雪糕 82 根，下午卖出雪糕 101 根，下午比上午多卖出(　　)根。

①193　　②82　　③19

三、你认为下面的算式正确吗？对的在（　　）里画“√”，错的画“×”，并在方框里改正过来。（9 分）

```
  3 3 9
+ 4 7 1
  8 0 0
```
（　　）　□

```
  2 5 7
- 1 8 0
    7 7
```
（　　）　□

四、从下面的方框中选出两个数，使它们的和或者差符合相应要求。（6 分）

696　795　508　302　185

1. 和最接近 1000 的数是（　　）和（　　）。
2. 差大约是 120 的数是（　　）和（　　）。

五、计算我能行。（24 分）

1. 把算式和相应的得数连接起来。（8 分）

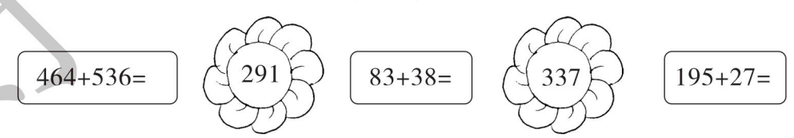

2. 用竖式计算，带※的要验算。（每小题 4 分，共 16 分）

※387 + 169 =　　※602 − 549 =

475 + 329 + 125 =　　800 − 544 − 136 =

荣德基 微信公众号 教辅资料站
关注微信公众号“教辅资料站”获取更多学习资料

六、解决问题。（4 题 7 分，其余每题 6 分，共 25 分）

1. 图书馆的墙壁上展示了 6 – 12 月每个月二年级学生读书本数。

月份	6	7	8	9	10	11	12
本数（本）	193	279	200	302	233	307	151

（1）11 月比 10 月多读了多少本书？

（2）6 月、7 月、8 月一共读了多少本书？

2. 看图解决问题。


165元


382元




430元


128元


120元

（1）买一辆和一个，能获奖吗？

（2）怎样买才能获奖？

3. 新华书店新购进科技书 610 本，比新购进的文艺书多 260 本，童话书比文艺书少 34 本。

（1）童话书有多少本？

（2）三种书一共有多少本？

4. 妈妈带 300 元去超市。如果想买一套衣服，最多还能剩多少元？


99元


196元


179元

附加题：（10 分）

算一算，填一填。

$$\begin{array}{r} 4\square\square \\ -\ 1\ 3\ 7 \\ \hline \square\ 2\ 3 \end{array} \qquad \begin{array}{r} \square\ 3\ 6 \\ +\ 2\square\ 7 \\ \hline 7\ 8\square \end{array}$$

荣德基好卷
品质教辅
微信公众号
教辅资料站
关注微信公众号“教辅资料站”获取更多学习资料

自己说说

老师点评

家长点评

密 封 线

姓名 学号 班级 学校

密 封 线

豆点提示：请不要在密封线内答题哦！

第六、七单元 跟踪检测卷

解决问题　千克与克的认识

时间：60 分钟　满分：100 +10 分

题号	一	二	三	四	五	六	附加题	总分
得分								

一、知识空格我会填。（每空 2 分，共 30 分）

1. 一个坏了的水龙头，1 分钟浪费 6 千克的水，照这样计算，5 分钟浪费水（　　）千克。
2. 莉莉摘了一篮子草莓，吃了 27 个，送给敬老院 78 个，还剩下 30 个，一共摘了（　　）个草莓。
3. 二年级 1 班有 42 人，2 班有 39 人，两个班共有少数民族 18 人，两个班共有（　　）人是汉族。
4. 7 千克 =（　　）克　　6000 克 =（　　）千克
   2000 克 =（　　）千克　　4 千克 =（　　）克
5. 按从轻到重的顺序排一排。
   2900 克　　3 千克　　990 克　　3100 克　　9999 克　　1001 千克
6. 他们分别有多重？



   小军重（　　）千克　　小红重（　　）千克　　王叔叔重（　　）千克
7. 已知△ =8，□ =9，※ =56，算一算，填一填。
   □ × △ − ※ =（　　）　　※ −（□ + △）=（　　）
   □ + ※ ÷ △ =（　　）　　※ + △ × □ =（　　）

二、快乐做选择。（把正确答案的序号填在括号里）（每题 2 分，共 10 分）

1. 一大袋洗衣粉的质量大约是（　　）。
   ①3000 千克　　②3 千克　　③300 千克
2. 一个苹果的质量是 200 克，（　　）个苹果的质量是 1 千克。
   ①7　　②6　　③5
3. 小兔跑了（　　）千米。



   ①87　　②72　　③68
4. 买一台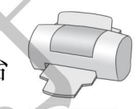

和一台

，李老师带了 1000 元，还剩（　　）元。
   ①810　　②90　　③910
5. 排球有（　　）个。

足球（个）	篮球（个）	排球（个）	合计（个）
276	389	?	910

   ①521　　②634　　③245

三、判断对错。（对的画“√”，错的画“×”）（每题 2 分，共 8 分）

1. 小明一天喝了 50 千克的水。（　　）
2. 爸爸的体重是 20 千克。（　　）
3. 一枚 1 分的硬币大约重 1 克。（　　）
4. 学校原来有 785 盒粉笔，用去 595 盒后，又买了 188 盒，现在粉笔有多少盒？正确的算式是 785 −（595 + 188）。（　　）

四、按要求做题。（13 分）

1. 在◯里填上“ > ”“ < ”或“ = ”。（每小题 2 分，共 8 分）
   999 克◯2 千克　　3000 克◯3 千克
   1010 克◯1100 克　　30 克 +70 克◯100 克

荣德基 微信公众号 教辅资料站
关注微信公众号“教辅资料站”获取更多学习资料

2. 连一连。(5 分)

一只狗	一盒牙膏	一瓶酒	一支铅笔	一头猪



五、看图列式计算。(每题 5 分，共 10 分)

1.



2.

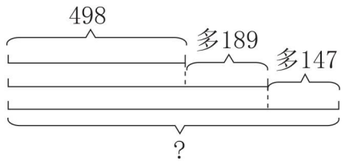

六、解决问题。(1 题 9 分，其余每题 10 分，共 29 分)

1. 下面三只小动物要过河。

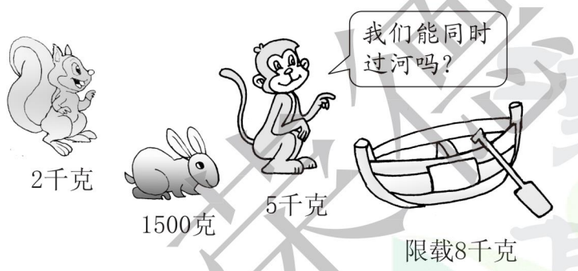

2. 买菜。



每千克 3 元



每千克 2 元



每千克 4 元

(1) 买 2 千克和 1 千克，一共要花多少钱?

(2) 妈妈带了 20 元钱，买了 2 千克，剩下的钱还可以买几千克?

3. 购物。



446元



400元



108元

买一辆和一架，如果带 900 元，还剩多少元? 剩的钱还够买吗?

附加题：(10 分)

在正确答案下的括号里画“√”。

△ + ○ = 4

△ + □ = 8

○ + □ = 6

①	②
△ = 3	△ = 1
○ = 1	○ = 5
□ = 5	□ = 3
(　　)	(　　)

荣德基好卷 品质教辅 微信公众号 教辅资料站
关注微信公众号“教辅资料站”获取更多学习资料

自己说说

老师点评

家长点评

密 封 线

姓名 学号 班级 学校

密 封 线

豆点提示：
请不要在密封线内答题哦！

第八、九、十单元 跟踪检测卷

时、分、秒的认识　收集数据　数学百花园

时间：60 分钟　满分：100 +10 分

题号	一	二	三	四	附加题	总分
得分						

一、知识空格我会填。（每空 1 分，共 24 分）

1. 2 分 =（　　）秒　　60 秒 =（　　）分

   6 分 20 秒 =（　　）秒　　1 时 =（　　）分

   114 秒 =（　　）分（　　）秒　　2 小时 30 分 =（　　）分

2. 填上合适的单位名称。

   （1）用电饭煲做一顿饭一般要用 20（　　）。

   （2）运动会上，小光跑 100 米所用的时间大约是 18（　　）。

   （3）同学们可以在课间休息 10（　　）。

   （4）从北京坐火车到天津大约需要 2（　　）。

3. 豆豆、圆圆、丁丁是班级语文、数学、英语三科的课代表，豆豆是语文课代表，圆圆不是数学课代表，请回答：

   （1）丁丁是（　　）课代表。

   （2）圆圆是（　　）课代表。

4. 三个抽屉中分别放有下面三样物品。



   第一个抽屉中放的是（　　），第二个抽屉中放的是（　　），

   第三个抽屉中放的是（　　）。

5. 下面是二（3）班同学每人拿出的一件自己最喜欢的文具。

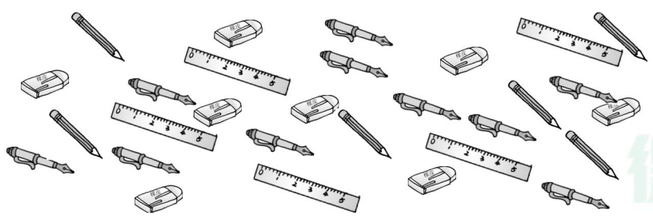

（1）用画“正”字的方法将各种文具的数量整理到下面表格中。

种类	橡皮	尺子	钢笔	铅笔
数量				

（2）数一数，填一填。

橡皮（　　）块　　钢笔（　　）支

尺子（　　）把　　铅笔（　　）支

二、快乐做选择。（把正确答案的序号填在括号里）（每题 2 分，共 6 分）

1. 看一场电影的时间大约是（　　）。

   ①20 分钟　　②2 小时　　③2 秒

2. 林林每天早上起床的时间是（　　）。

   ①7 小时 30 分　　②7：30　　③7 小时半

3. 与 

所表示的时间相同的是（　　）。



①　　②　　③

三、操作题。（42 分）

1. 连一连。（16 分）

9：20	8：55	4：12	6：08



4 时 12 分	9 时 20 分	6 时 8 分	8 时 55 分

荣德基 微信公众号 教辅资料站
关注微信公众号“教辅资料站”获取更多学习资料

2. 根据下面的时间在钟面上画出时针和分针。(16 分)



5：30　　10：00　　10：30　　6：40

3. 先观察再填空。(10 分)





四、解决问题。(2 题 10 分，其余每题 9 分，共 28 分)

1. 学校开设了美术、音乐和体育三门课，王老师、刘老师、张老师三位老师分别教其中一门课，王老师不是美术老师，刘老师从不在操场上课，但上课时要用钢琴，这三位老师分别教哪一门课？请在表格中用“√”表示出来。

	美术	音乐	体育
王老师			
刘老师			
张老师			

2. 下面是《我和你》的部分歌词。

我和你　心连心　同住地球村

为梦想　千里行　相会在北京

来吧　朋友　伸出你的手

我和你　心连心　永远一家人

(1) 用画“正”字的方法统计歌词中相应的字出现的次数。

我	你	心	连	和

(2) 上面的统计表中，哪个字出现的次数最多？哪些字出现的次数一样多？

(3) “我”和“你”一共出现了多少次？

(4) “心”比“连”出现的次数多几次？

3. 小马、小兔和小狗进行 1000 米比赛，请你把它们的名字写在相应的领奖台上。

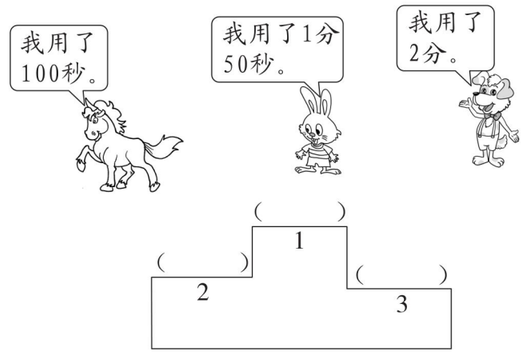

附加题：(10 分)

军军可能什么时间在图书馆？圈一圈。

开馆：上午 10：00

闭馆：中午 12：00



荣德基 品质教辅 微信公众号 教辅资料站
关注微信公众号“教辅资料站”获取更多学习资料

自己说说　老师点评　家长点评　密　封　线



期末总复习 模块过关卷（一）

数与代数　　统计

时间：60 分钟　满分：100 +10 分

题号	一	二	三	四	五	附加题	总分
得分							

姓名＿＿＿＿　学号＿＿＿＿　班级＿＿＿＿　学校＿＿＿＿

密　封　线

豆点提示：请不要在密封线内答题哦！

一、知识空格我会填。（每空 1 分，共 20 分）

1. 一个数由 3 个千、3 个一组成，这个数写作：（　　），读作：（　　）。
2. 密云古北水镇某日全天接待游客八千零五十四人，横线上的数写作：（　　）。
3. 王阿姨去超市购物，她记得自己看好的衣服价格分别是 198 元、205 元，如果王阿姨想购买，大约需要（　　）元。
4. 甲、乙、丙、丁四人玩扑克牌，从甲开始按先后顺序轮流抓牌，（　　）会抓到第 37 张牌。
5. 星期天，妈妈从开始做饭，到做好，妈妈做饭花了（　　）时（　　）分。
6. 65 分 =（　　）时（　　）分
   85 秒 =（　　）分（　　）秒
   3 千克 200 克 =（　　）克
   2500 克 =（　　）千克（　　）克
7. 甲数比乙数多 200，甲数比丙数少 100，则乙数比丙数少（　　）。
8. 把 27 +8 =35，35 ÷7 =5 改写成一个综合算式是（　　）。
9. 把 4258、2458、5248、5428 这四个数从小到大排列。
   （　　）<（　　）<（　　）<（　　）

二、快乐做选择。（把正确答案的序号填在括号里）（每题 2 分，共 10 分）

1. 三个同学比高矮，小丽比小红高，小林比小红矮，身高最矮的是（　　）。
   ①小丽　　②小红　　③小林
2. 有 158 筐桃，梨比桃多得多，梨可能有（　　）筐。
   ①480　　②148　　③168
3. 右图表示的数是（　　）。
   ①5500　　②6510　　③1010

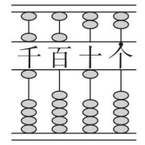

4. 张阿姨 8：15 出发，路上用了 20 分钟，（　　）到达目的地。
   ①8：35　　②8：20　　③8：45
5. 妈妈到花店买花，每盆茉莉花 15 元，3 盆月季花 27 元，每盆月季花比茉莉花少（　　）元。
   ①12　　②9　　③6

三、下面每个数中的“5”各表示什么？连一连。（6 分）

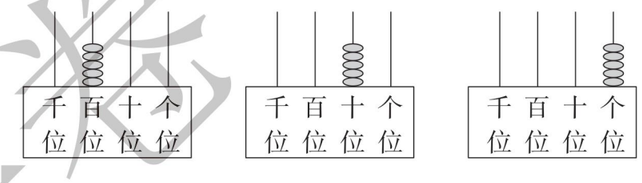

501　　425　　650

四、计算我能行。（36 分）

1. 直接写得数。（每小题 2 分，共 12 分）
   32 ÷（4 +4）=　　240 +80 =
   540 −70 =　　24 +9 ×4 =
   （70 −6）÷8 =　　132 +（74 +16）=
2. 列竖式计算，带※的要验算。（每小题 4 分，共 12 分）
   29 ÷4 =　　※546 +325 =　　※602 −487 =
3. 脱式计算。（每小题 4 分，共 12 分）
   （72 −42）÷5　　23 +7 ×3　　（36 ÷4）×2

荣德基 微信公众号 教辅资料站

关注微信公众号“教辅资料站”获取更多学习资料

五、解决问题。（5 题 8 分，其余每题 5 分，共 28 分）

1. 一瓶钙片 50 片，这瓶钙片能吃几天？还剩几片？



2. 下图是三名运动员的跳高成绩，请你算出 3 号运动员的成绩。

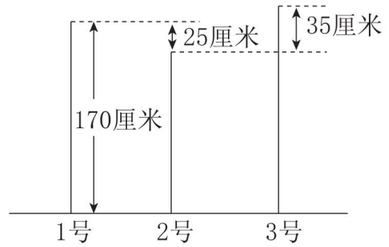

3. 图书馆有故事书 368 本，比科技书多 109 本，连环画比科技书少 27 本，连环画有多少本？

4. 二年级同学去栽树，每行栽 5 棵，共栽 8 行，已经栽了 12 棵，还剩多少棵没栽？

5. 胜利小学要举行阳光少年评选，二（3）班要从两位同学中选一位参加评选，下面是同学们投票的情况。

李小红：正　正　正　　张鹏：正　正　正　正　丅

把上面的统计结果填入下表。

姓名	李小红	张鹏
票数		

（1）根据统计结果，应该选（　　）参加学校阳光少年评选，为什么？

（2）投票当天有三位同学请假没参加投票，如果他们也投了票，会改变投票结果吗？为什么？说说自己的理由。

附加题：（10 分）

时钟 6 点敲 6 下，10 秒敲完，10 点时敲 10 下用几秒？

荣德基好卷
品质教辅
微信公众号
教辅资料站

关注微信公众号“教辅资料站”获取更多学习资料

自己说说

老师点评

家长点评

密 封 线

姓名 学号 班级 学校

密 封 线

豆点提示：
请不要在密封线内答题哦！

期末总复习 模块过关卷（二）

图形与几何

时间：60 分钟　满分：100 +10 分

题号	一	二	三	四	五	六	附加题	总分
得分								

一、知识空格我会填。（每空 2 分，共 34 分）

1. 晚上，小明说：“北极星在我的后面”，那么小明的前面是（　　），后面是（　　），左面是（　　），右面是（　　）。

2. 小华面向东，她向左转后，面向（　　），此时，她后面是（　　），左面是（　　），右面是（　　）。

3. 动物园北面是虎山，动物园的大门在（　　）面；走进动物园，西面是（　　），东面是（　　）。

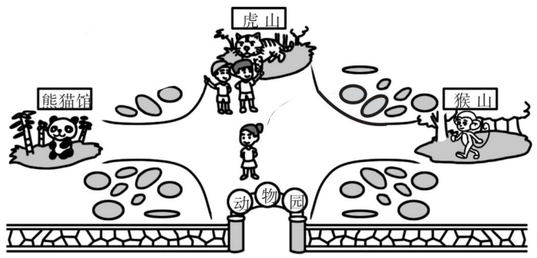

4. 下面的图形中，不是轴对称图形的是（　　）。

①　②　③



5. 下面的图形中，是轴对称图形的画“√”，不是的画“×”。



（　　）　（　　）　（　　）



（　　）　（　　）

二、快乐做选择。（把正确答案的序号填在括号里）（每题 2 分，共 8 分）

1. 下图是一些国家的国旗，其中是轴对称图形的有（　　）个。

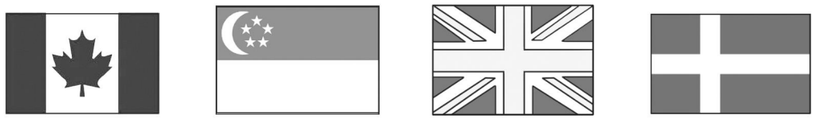

加拿大　新加坡　英国　瑞典

①4　②3　③2

2. 下图中是轴对称图形的是（　　）。



①　②　③

3. 下面图形中不是轴对称图形的是（　　）。



①　②　③

4. 小晴站在操场的北面，小方站在操场的东面，图中（　　）表示小方所在的位置。



三、判断对错。（对的画“√”，错的画“×”）（每题 2 分，共 10 分）

1. 数字 0、8、3、6 都是轴对称图形。（　　）
2. 使用指南针时，要先调整指针方向，使指针与“北”重合。（　　）
3. 中午面向太阳，那么左手所对的方向就是北方。（　　）
4. 正方形一定是轴对称图形。（　　）
5. 东与南相对，北与西相对。（　　）

荣德基 微信公众号 教辅资料站 荣誉出品

关注微信公众号“教辅资料站”获取更多学习资料

四、操作题。(20 分)

1. 下面哪些是轴对称图形？把它们圈起来。(14 分)

1 2 3 4 5 6 7 8 9 0

本　同　回　喜　田　图

L H N A + − × ÷

2. 写出钟面上的时间。(6 分)



：　　：　　：

五、下面的图案是从哪张纸上剪下来的？连一连。(10 分)



六、先仔细读图，再回答下面的问题。(18 分)

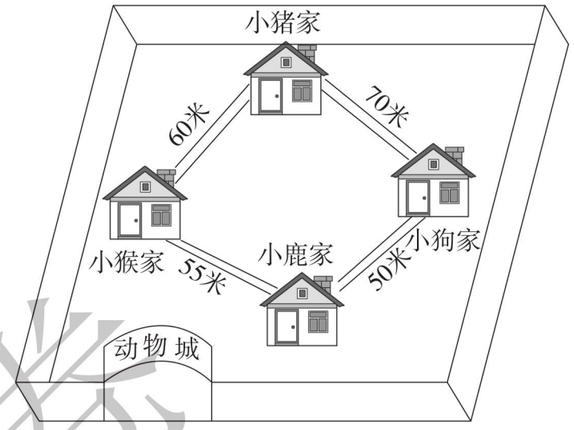

1. 小猴家在动物城的西面，小猪家在动物城的（　　）面，动物城的东面是（　　）家，动物城的南面是（　　）家。

2. 小猪从家出发，到小鹿家去玩。算一算，它怎样走近一些？

附加题：(10 分)

看镜子，写时间。

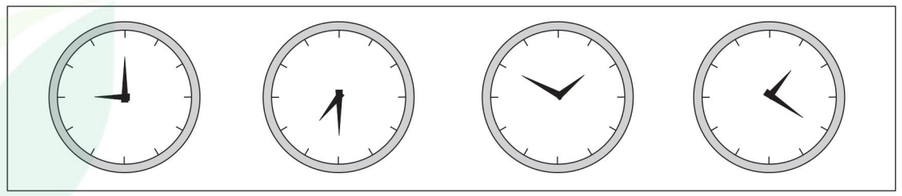

：　　：　　：　　：

荣德基 品质教辅 微信公众号 教辅资料站
关注微信公众号“教辅资料站”获取更多学习资料

自己说说

老师点评

家长点评

密　封　线

姓名 学号 班级 学校

密 封 线

豆点提示：
请不要在密封线内答题哦！

期末总复习

仿真模拟卷（一）

时间：60 分钟　满分：100 +10 分

题号	一	二	三	四	五	附加题	总分
得分							

一、知识空格我会填。（每空 1 分，共 22 分）

1. 七千二百一十四，写作：（　　），它是由（　　）个千、（　　）个百、（　　）个十和（　　）个一组成的。

2. 按从大到小的顺序排列下面的数。

   1011　　889　　998　　911　　1101

   （　　）>（　　）>（　　）>（　　）>（　　）

3. 用 6、1、0、4 组成的四位数中，最大的一个数是（　　），最小的一个数是（　　）。

4. 两辆车大约一共装了（　　）个西瓜。



5. 在括号里填上合适的单位。

   一个苹果约重 200（　　）　　明明跑 50 米大约需要 10（　　）

   一个冬瓜约重 4（　　）　　荣荣每天的睡眠时间大约是 10（　　）

6. 按照红、蓝、黄、绿的顺序挂彩灯，第 35 盏彩灯是（　　）色的。

7. 荣荣到文具店买文具，一支水笔需要 8 元，4 本笔记本需要 36 元，每本笔记本比每支水笔贵（　　）元。

8. 甲、乙、丙、丁四位同学比身高，甲比乙高，乙比丙高，丁是最矮的，（　　）最高。

9. 张叔叔家养的鸡比鸭多 130 只，后来又购进了 130 只鸭和 60 只鸡，现在（　　）的只数多，多（　　）只。

二、快乐做选择。（把正确答案的序号填在括号里）（每题 2 分，共 10 分）

1. 下面各数中，一个“零”也不读出来的是（　　）。

   ①4009　　②4900　　③4909

2. 二年级（1）班 41 位师生去参加社会实践活动，每辆车限乘 6 人，至少需要租（　　）辆车。

   ①8　　②7　　③6

3. 一列火车上午出发，到达时间为上午，路上用了（　　）。

   ①2 时　　②2 时 30 分　　③3 时

4. 下面的图形中，（　　）不是轴对称图形。

5. 下面是三位同学参加 50 米跑步的成绩，（　　）得了第一名。

荣荣	德德	亮亮
12 秒	13 秒	14 秒

   ①荣荣　　②德德　　③亮亮

三、计算我能行。（36 分）

1. 直接写得数。（每小题 2 分，共 12 分）

   650 − 320 =　　132 +（54 +16）=　　34 +8 ×6 =

   （72 −8）÷8 =　　420 +90 =　　20 ÷5 =

2. 用竖式计算。（带※的要验算）（每小题 4 分，共 16 分）

   ※810 − 259 =　　※374 +136 =

   576 +198 +534 =　　365 −178 −105 =

3. 脱式计算。（每小题 4 分，共 8 分）

   72 ÷（45 −36）　　（7 +2）×2

荣德基 微信公众号 教辅资料站
关注微信公众号“教辅资料站”获取更多学习资料

四、根据描述填一填小朋友的位置。（3 分）

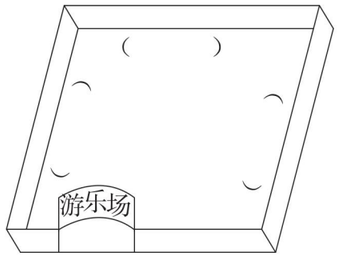

游乐场的大门在游乐场的东面，小军在游乐场的北面，小方在游乐场的西面，小华在游乐场的南面。

五、解决问题。（1 题 5 分，其余每题 6 分，共 28 分）

1. 张叔叔将 65 个鸡蛋放到蛋托里。每个蛋托可以放 9 个，这些鸡蛋能放满几个蛋托？还剩下几个鸡蛋？

2. 读表解答问题。

学校	安阳小学	石峰小学	一亩河小学
人数	563	305	198

（1）三所学校一共有多少人？

（2）安阳小学比石峰小学和一亩河小学的总数多多少人？

3. 修路队修一条长 150 千米的公路，已经修好了 96 千米，剩下的要 6 天修完，平均每天要修多少千米？

4. 这本书一共有 60 页，丽丽还有多少页没有看？

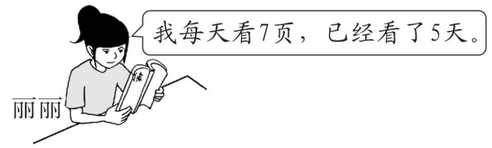

5. 下面是荣荣记录的北京 2018 年某个月的天气情况。

晴	多云	雾霾
正正正正	正下	丁

（1）这个月共有（　　）天。

（2）晴比多云多（　　）天，雾霾比多云少（　　）天。

附加题：（10 分）

如果　○ − △ = 600，○ − △ − △ = 200，那么○和△各是多少？

荣德基好卷
品质教辅
微信公众号
教辅资料站

关注微信公众号“教辅资料站”获取更多学习资料

自己说说

老师点评

家长点评

密 封 线

姓名 学号 班级 学校

密 封 线

豆点提示：请不要在密封线内答题哦！

期末总复习

仿真模拟卷（二）

时间：60 分钟　满分：100 +10 分

题号	一	二	三	四	五	附加题	总分
得分							

一、知识空格我会填。（每空 1 分，共 25 分）

1. 2018 年 6 月 7 日晚上 7：00 – 7：15，北京某地铁线 B 出口乘客进站人数是一千零五，横线上的数写作：（　　），它是由（　　）个千和（　　）个一组成的，和它相邻的两个数分别是（　　）和（　　）。
2. 22 根香蕉平均分给 7 只猴子，每只猴子分到（　　）根，还剩（　　）根。
3. 一架钢琴的价格是 8979 元，接近（　　）元，一辆自行车的价格是 482 元，接近（　　）元。（在括号里填整千或整百数）
4. 在◯里填上“ > ”“ < ”或“ = ”。

   1999 ◯ 1899　　8 ×4 +28 ◯ （19 – 12） ×9

   3 分 ◯ 120 秒　　6800 克 ◯ 68 千克

   186 秒 ◯ 3 分　　2 千克 500 克 ◯ 2050 克
5. 按照“1、3、9、1、3、9…”的顺序排列数字，第 22 个数字是（　　），前 22 个数字中，数字“1”出现了（　　）次，数字“9”出现了（　　）次。
6. 亮亮上午到校，中午放学，上午的在校时间是（　　）。
7. 用 1、0、0、5 这几个数字组成的四位数中，一个零也不读出来的数有（　　）和（　　），读出一个零的数有（　　）、（　　）、（　　）、（　　）。

二、快乐做选择。（把正确答案的序号填在括号里）（每题 2 分，共 10 分）

1. 右图表示的数读作：（　　）。

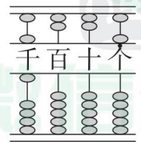

   ①二千零一　　②二千零五　　③六千零五
2. 分针在钟面上走半圈的时间是（　　）。

   ①1 小时　　②30 秒　　③30 分钟
3. 在有余数的除法中，除数是 6，余数最大是（　　）。

   ①4　　②5　　③6
4. 5 个苹果大约重 1（　　）。

   ①克　　②千克　　③米
5. 周日，荣荣和德德都是从 8：00 开始写作业，荣荣 8：20 写完，德德 8：25写完，两人比较，（　　）写得快一些。

   ①荣荣　　②德德　　③无法确定

三、按要求做一做。（16 分）

1. 下面的图形中，是轴对称图形的在□中画“√”，不是的画“ × ”。（4 分）

　　　

□　□　□　□

2. 看图填一填。（6 分）

王叔叔在自家的小花园里种了不同的花，南面种的是月季花，玫瑰花在小花园的（　　）面，小花园的西面种的是（　　），东面种的是（　　）。

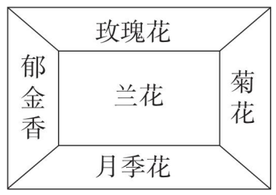

3. 张老师、王老师和李老师分别教数学、道德与法治、语文其中的一门课。王老师不是语文老师，李老师上课不带道德与法治书，张老师上课用三角板、直尺作图，请你判断每位老师任教的学科。请在表格中用“√”和“ × ”表示出来。（6 分）

	数学	语文	道德与法治
李老师			
张老师			
王老师			

荣德基 荣誉出品 微信公众号 教辅资料站
关注微信公众号“教辅资料站”获取更多学习资料

四、计算我能行。(30分)

1. 直接写得数。(每小题2分，共12分)

770 + 50 =　　620 − 80 =　　(86 − 50) ÷ 4 =

37 ÷ 6 =　　799 − 198 ≈　　8 × (13 − 7) =

2. 用竖式计算并验算。(每小题3分，共6分)

586 + 376 =　　904 − 487 =

3. 脱式计算。(每小题4分，共12分)

48 + 9 × 5　　81 ÷ (27 − 18)　　6 × (52 − 43)

五、解决问题。(1题4分，其余每题5分，共19分)

1. 35个乒乓球平均分给9个同学，每个同学分到几个？还剩几个？

2. 下面是二(1)班同学最喜欢吃的水果调查记录表。(每人只选一种)

梨	葡萄	苹果	西瓜
正正下	正正丌	正正	正一

(1) 最喜欢吃(　　)的人数最多，有(　　)人；最喜欢吃(　　)的人数最少，有(　　)人。

(2) 二(1)班一共有多少人？

3. 荣荣、德德和浩浩去摘桃子，浩浩负责搬运梯子，荣荣摘了30个，德德摘了42个，每个袋子装8个，需要多少个袋子？

4. 购物。


35元/个


9元/支



?元/本

(1) 买8支钢笔，付款80元，找回多少元？

(2) 浩浩买了3本笔记本和1个足球，一共花了50元，一本笔记本多少元？

附加题：(10分)

有6盒糕点，共50千克，每盒的质量都是整千克数，其中只有1盒与其他5盒不同，稍重一些，其他5盒一样重，稍重的那盒重多少千克？

自己说说

老师点评

家长点评

荣德基好卷
品质教辅
微信公众号
教辅资料站

关注微信公众号“教辅资料站”获取更多学习资料

姓名 学号 班级 学校

密 封 线

豆点提示：
请不要在密封线内答题哦！



期末总复习

仿真模拟卷（三）

时间：60 分钟　满分：100 +10 分

题号	一	二	三	四	五	六	附加题	总分
得分								

一、知识空格我会填。（3 题 2 分，6 题 3 分，其余每空 1 分，共 22 分）

1. 北京自然博物馆统计的我国已知鸟类种数为一千三百二十九种，横线上的数写作：（　　）；它的最高位是（　　）位，它里面有（　　）个千，（　　）个百，（　　）个十和（　　）个一。

2. 把 37 本练习本平均分给 9 个同学，每个同学分（　　）本，还剩（　　）本。

3. 在下面的算式中添上小括号，使等式成立。

   83 − 23 + 17 = 43　　56 ÷ 8 − 1 = 8

4. 每天晚上 CCTV − 1《新闻联播》节目开始，结束，播了（　　）分钟。

5. 同学们按照“三男两女”的顺序排成一列做体操。第 18 个同学是（　　）生。

6. 把 3000 克、65 克、1 千克、500 克、2000 克，按照从重到轻的顺序排列。

   （　　）>（　　）>（　　）>（　　）>（　　）

7. 有三盘苹果，小猫说：“第一盘比第三盘多 3 个。”小狗说：“第三盘比第二盘少 5 个”。第（　　）盘苹果最多，第（　　）盘苹果最少。

8. 我会算。

   1 时 15 分 =（　　）分　　90 秒 =（　　）分（　　）秒

   4000 克 =（　　）千克　　2 千克 200 克 =（　　）克

二、快乐做选择。（把正确答案的序号填在括号里）（每题 1 分，共 5 分）

1. 下面各数中，一个“0”也不读的是（　　）。

   ① 5060　　② 5006　　③ 5600

2. 下面各数中最接近 600 的数是（　　）。

   ① 598　　② 610　　③ 603

3. 结果小于 400 的算式是（　　）。

   ① 860 − 498　　② 751 − 98　　③ 103 + 304

4. 一个装满书的书包约重 3（　　）。

   ① 克　　② 千克　　③ 米

5. 2038 中的 3 表示（　　）。

   ① 3 个千　　② 3 个百　　③ 3 个十

三、按要求做一做。（每题 4 分，共 12 分）

1. 读动物园简图填空。

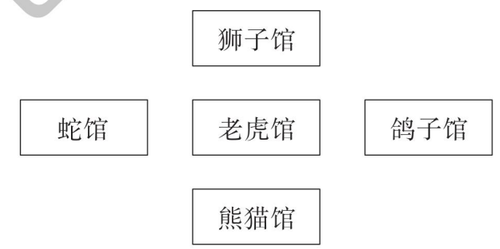

（1）狮子馆在动物园的东面，熊猫馆在动物园的（　　）面。

（2）动物园的南面是（　　）馆，动物园的北面是（　　）馆。

2. 根据下面的时间，在钟面上画出时针和分针。


6 : 30


2 : 50


10 : 05

3. 下面的图案是从哪张纸上剪下来的？连线。

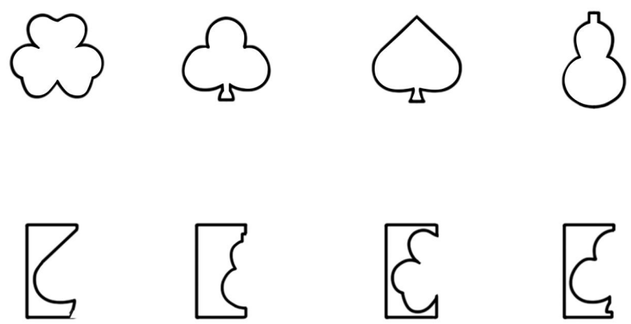

荣德基 微信公众号 教辅资料站
关注微信公众号“教辅资料站”获取更多学习资料

四、计算我能行。（30 分）

1. 直接写得数。（每题 1 分，共 6 分）

400 + 700 =　　280 + 80 =　　320 − 30 =

900 − 440 =　　（60 − 20）÷ 8 =　　6 × 9 + 45 =

2. 列竖式计算。（后两题要验算）（每小题 4 分，共 12 分）

52 ÷ 7 =　　639 + 285 =　　503 − 174 =

3. 脱式计算。（每小题 4 分，共 12 分）

602 − 528 + 359　　（90 − 36）÷ 9　　35 + 7 × 4

五、某班同学喜欢看的图书调查如下，根据这个结果完成下面的问题。

（每人只选一种）（每空 1 分，共 7 分）

故事书	漫画书	科技书	连环画
正正一	正正正丁	正	正正下

1. 完成下面的表格。

类别	故事书	漫画书	科技书	连环画
人数				

2. 喜欢看（　　）书的人数最多，喜欢看（　　）书的人数最少。

3. 如果这个班有 1 名同学没来，他最有可能喜欢看（　　）书。

六、解决问题。（3 题 10 分，其余每题 7 分，共 24 分）

1. 小明和小华去买笔记本，小明买了 30 本，小华买了 42 本。如果每 8 本分成一组，两人买的笔记本一共能分成几组？

2. 看图列式计算。

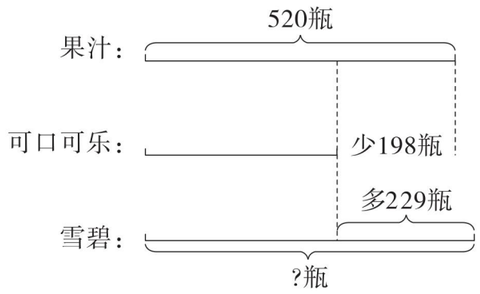

3. 看图解决问题。

（1）三种家具各买一件，一共需要多少元？



（2）妈妈带了 500 元，可以买到哪两件家具？还剩多少元？

附加题：（10 分）

顾客买一张书桌，付给收银员张阿姨 350 元，结果张阿姨把书桌价格中的 7 看成了 1，最后找给顾客 19 元，你知道书桌的价格吗？应找给顾客多少元？

荣德基 品质教辅 微信公众号 教辅资料站
关注微信公众号“教辅资料站”获取更多学习资料
自己说说　老师点评　家长点评
密　封　线

姓名 学号 班级 学校

密 封 线

豆点提示：请不要在密封线内答题哦！

期末总复习

仿真模拟卷（四）

时间：60 分钟　满分：100 +10 分

题号	一	二	三	四	五	附加题	总分
得分							

一、知识空格我会填。（每空 1 分，共 20 分）

1. 6300 是（　　）位数，最高位是（　　）位；它是由（　　）个千和（　　）个百组成的；这个数里面有（　　）个十。
2. 甲数比乙数多 200，甲数比丙数少 200，则乙数比丙数少（　　）。
3. 下午，小明在放学的路上迎面看到美丽的夕阳，那么，小明的后面是（　　）面，左边是（　　）面，右边是（　　）面。
4. 在（　　）里填上合适的单位。

   一个西瓜约重 5（　　）。

   一个鸡蛋大约重 50（　　）。

   跑 50 米大约需要 12（　　）。

   王老师骑车上班大约需要 15（　　）。
5. （　　）里最大能填几？

   （　　）×5 < 27　　6 ×（　　）< 38　　9 ×（　　）< 26 + 32
6. 舞蹈比赛。

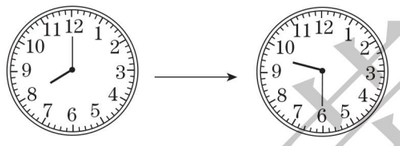

   舞蹈比赛从早上（　　）开始，到上午（　　）结束，共用了（　　）小时（　　）分钟。

二、判断。（对的画“√”，错的画“×”）（每题 2 分，共 10 分）

1. 45 ÷ 6 = 6……9　　（　　）
2. 一盒饼干大约重 110 千克。　　（　　）
3. 用 0、2、4、7 组成的最小的四位数是 2470。　　（　　）
4. 将一堆气球按照红、黄、蓝、绿的顺序依次排列起来，第 19 个气球是蓝色的。　　（　　）
5. 8 时 7 分可以写成 8：7。　　（　　）

三、快乐做选择。（把正确答案的序号填在括号里）（每空 2 分，共 12 分）

1. 一个南瓜约重 4（　　）。

   ①千克　　②克　　③厘米
2. 在 16 的末尾添上 1 个 0，原数比新数小（　　）。

   ①160　　②176　　③144
3. 李大爷要买右图两样东西大约需要（　　）元钱。



694元

208元

   ①800　　②900　　③700
4. 下面的图形中不是轴对称图形的是（　　）。



①　　②　　③
5.

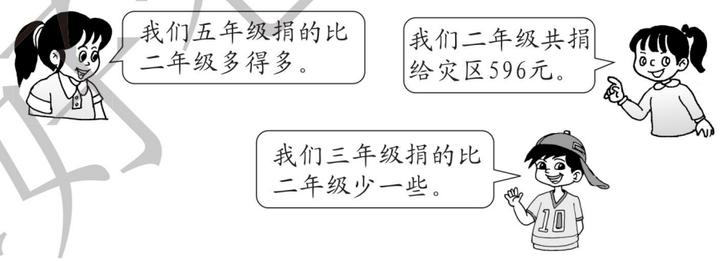

   （1）三年级可能捐款（　　）元。

   ①565　　②196　　③608

   （2）五年级可能捐款（　　）元。

   ①100　　②1000　　③602

四、计算我能行。（30 分）

1. 直接写得数。（每小题 2 分，共 18 分）

   84 + 127 =　　900 − 467 =　　63 ÷ 7 + 23 =

   1700 + 3000 =　　1900 − 360 =　　7 × 4 + 27 =

   45 ÷ 8 =　　（27 + 8）÷ 5 =　　6 ×（6 + 3）=
2. 用竖式计算下面各题。（带 * 的要进行验算）（每小题 3 分，共 12 分）

   * 526 + 792 =　　74 ÷ 8 =

荣德基 微信公众号 教辅资料站
关注微信公众号“教辅资料站”获取更多学习资料

448 + 102 + 228 =　　1006 − 459 − 266 =

五、解决问题。（1 题 5 分，4 题 9 分，其余每题 7 分，共 28 分）

1. 甲、乙、丙三位同学进行乒乓球比赛。甲说：“我不是最后一名；”乙说：“我也不是最后一名，但是甲的成绩比我好。”他们三人各得了第几名？



2. 手工组做了 36 朵红花和 18 朵粉花，把这些花平均分给 6 个班，每班可以分得多少朵？

3. 水果店有苹果 405 箱，桃子 530 箱，卖出 145 箱桃子后，水果店里的苹果比桃子多多少箱？

4. 二（1）班回收小组一天内收集到的废品记录如下。

矿泉水瓶	易拉罐	牛奶盒
√	√	√
√	√	√
√	√	√
√	√	√
√		√
√		
√		
√		
√		
√		

（1）根据上面的记录完成统计表。

品种	矿泉水瓶	易拉罐	牛奶盒
数量（个）			

（2）同学们所收集的废品中，（　　）的数量最少。

（3）算一算，同学们收集到的易拉罐比矿泉水瓶的数量少几个？

附加题：（10 分）

小强做一道加法计算题时，把一个加数个位上的 6 看成 9，把十位上的 1 看成 7，得到 604，正确的得数应该是多少？

荣德基 品质教辅 微信公众号 教辅资料站
关注微信公众号“教辅资料站”获取更多学习资料

自己说说　老师点评　家长点评

密　封　线

参考答案及点拨（大卷）

第一单元跟踪检测卷

有余数的除法

一、1.（1）3　2　11　3　3　2

（2）3　1　10　3　3　1

2. 4　7

3. 5　3　4　4　3　4

4. 4　3

5. ⊙　⊿

6.（1）2　（2）6

二、1. ③　**点拨：**余数要比除数小，因为除数是5，所以余数最大是4。

2. ③　**点拨：**39 ÷ 5 = 7（个）……4（个），所以选③。

3. ②　**点拨：**②中商与除数的积比被除数大，所以错误。

4. ③

三、9　6　5

四、



五、1. 4……3　6……4　6……6　5……4

6……1　7　5……6　8

2. ×　　×

改正：
$$\begin{array}{r} 6 \\ 8\overline{)50} \\ 48 \\ \hline 2 \end{array}$$
改正：
$$\begin{array}{r} 7 \\ 6\overline{)47} \\ 42 \\ \hline 5 \end{array}$$

3. 56 ÷ 8 = 7　　34 ÷ 5 = 6……4

$$\begin{array}{r} 7 \\ 8\overline{)56} \\ 56 \\ \hline 0 \end{array}$$
$$\begin{array}{r} 6 \\ 5\overline{)34} \\ 30 \\ \hline 4 \end{array}$$

27 ÷ 6 = 4……3　61 ÷ 9 = 6……7

$$\begin{array}{r} 4 \\ 6\overline{)27} \\ 24 \\ \hline 3 \end{array}$$
$$\begin{array}{r} 6 \\ 9\overline{)61} \\ 54 \\ \hline 7 \end{array}$$

六、19　9　2　1　19　2　9　1

七、1. 22 ÷ 3 = 7（枝）……1（枝）

$$\begin{array}{r} 7 \\ 3\overline{)22} \\ 21 \\ \hline 1 \end{array}$$

答：平均每个花瓶插7枝，还剩下1枝。

2. 25 ÷ 3 = 8（条）……1（米）

答：最多能做8条跳绳。

3.（1）38 ÷ 6 = 6（辆）……2（人）

6 + 1 = 7（辆）

答：如果都坐大车，至少要租7辆。

38 ÷ 4 = 9（辆）……2（人）

9 + 1 = 10（辆）

答：如果都坐小车，至少要租10辆。

（2）还可以租3辆大车，5辆小车。（答案不唯一）

附加题：

15 ÷ 7 = 2（本）……1（元）

2 + 1 = 3（本）

答：他可以买到3本。

第二、三单元跟踪检测卷

混合运算　对称与方向

一、1. >　=　>　=　<　<

2.（1）54　36　6 × 9 − 18 = 36

（2）8　6　48 ÷（5 + 3）= 6

3. 乘　加　减　除

4. 8

5. 南　东　西

6. 0　8

7. 中　工　喜（答案不唯一）

8. 西　北

二、1. ×　2. √　3. ×　4. √　5. ×

6. √　7. ×　8. √

三、1. ①　2. ②　3. ③　4. ③　5. ③

6. ③

四、1. 47　67　32　63　24　6

2.

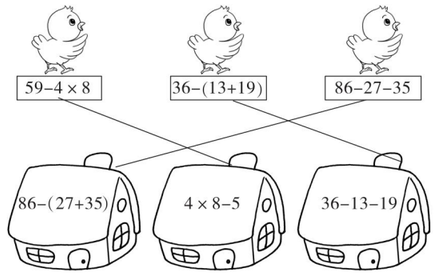

五、1. 田　地　下　凹

√　×　√　√　×　×　√

2. 东　北　南

六、1.（80 − 24）÷ 8 = 7（小时）

答：还需要修7小时。

2. 15 ÷ 5 = 3（元）

3 < 5

5 − 3 = 2（元）

答：小明买得便宜，每支便宜2元。

3.（27 + 45）÷ 8 = 9（棵）

答：平均每行栽9棵。

4. 48 ÷ 6 = 8（人）

48 ÷（6 + 2）= 6（人）

答：原来平均每条船坐8人，现在平均每条船坐6人。

附加题：

4 × 6 + 5 = 29（岁）

29 − 6 = 23（岁）

答：爸爸今年29岁，10年后爸爸比小芳大23岁。

点拨：爸爸比小芳大多少岁不会随年龄增长而改变。

第四单元跟踪检测卷

万以内数的认识

一、1. 124　一百二十四　6080　六千零八十

2. 四　千　5　5　8　4　6

3. 8430　3048　千

4. 千　5　千　个　5　一

5. 1000

6. 245　452　2045　4025

7. 万位　千位　十位

8. 5　4

9. 3000　300　60　2　6000　500　70

二、1. ③　2. ①　3. ②　4. ①　5. ①

三、1. ×　2. ×　3. √　4. ×　5. ×

6. ×

四、1. 7　0　2　8（答案不唯一）

2.（1）400　401　403　404　398（最后一空答案不唯一）

（2）590　600　630　620　580（最后两空答案不唯一）

五、只读一个零的数：3090　5002　9020

一个零也不读的数：400　490　5200　920

六、1. 4300　3400

2. 4003　4030　3004　3040

七、1. 大约有25个水杯。

2. 10根玉米棒大约有7000颗玉米粒。

3.

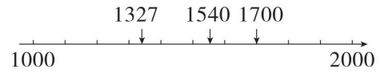

1700 > 1540 > 1327

答：小刚这个学期做的计算题最多。

4. 空调：5999元　冰箱：6590元

附加题：

1. 304　3　3　百

2.

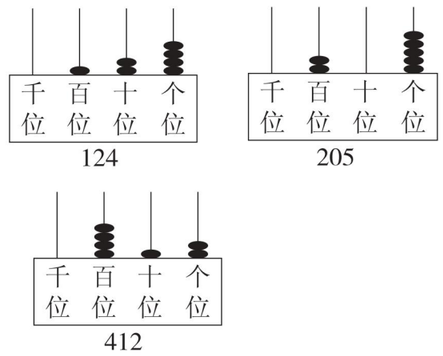

（答案不唯一）

3. 124 < 205 < 304 < 412

关注微信公众号“教辅资料站”获取更多学习资料

期中跟踪检测卷

一、1. 7

2. 3　6　2　3　6　2

3. 乘　减　13

4. 64

5. 杨树

6. 4605　四千六百零五

7. 6　5　7

二、1. ①　2. ①　3. ③　4. ②　5. ②

三、1. 南　西

2. （1）5003　（2）5030

四、1. 32　4……4　12　9　72　45

2. $54\div7=7\cdots\cdots5$　　$78\div9=8\cdots\cdots6$

$$\begin{array}{r} 7 \\ 7\overline{)54} \\ 49 \\ \hline 5 \end{array}\qquad \begin{array}{r} 8 \\ 9\overline{)78} \\ 72 \\ \hline 6 \end{array}$$

$66\div8=8\cdots\cdots2$

$$\begin{array}{r} 8 \\ 8\overline{)66} \\ 64 \\ \hline 2 \end{array}$$

3. $(53-35)\div3$

$=18\div3$

$=6$

$19+8\times3$　　$81\div(27\div3)$

$=19+24$　　$=81\div9$

$=43$　　$=9$

五、1. $42\div9=4$（根）……6（根）

答：每人分到4根，还剩下6根。

2. $56+8\times3=80$（元）$100>80$

答：一共需要80元，带100元够。

3. $(45-33)\div4=3$（辆）

答：需要3辆小轿车。

4. $(35-8)\div3=9$（个）

答：每只兔宝宝平均分到9个胡萝卜。

5. （1）$98+56=154$（元）

$154>100$　答：可以免邮费。

（2）$154>150$　$154-25=129$（元）

答：妈妈买这些衣服一共花了129元。

附加题：

$42\div(9-3)=7$（个）

$7\times9=63$（个）

答：妈妈一共装了63个乒乓球。

点拨：妈妈比小方多装了6盒，并且多装了42个，可算出每盒装几个。

第五单元跟踪检测卷

万以内数的加法和减法

一、1. 621　69

2. 500　100

3. <　>　>　>　=　=

4. （1）300　200　（2）500　100　（3）18

二、1. ②　2. ①　3. ③

三、×　$\begin{array}{r} 339 \\ +471 \\ \hline 810 \end{array}$　√

四、1. 696　302

2. 302　185

五、1.

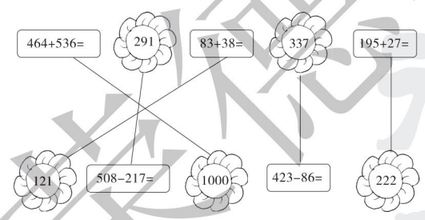

2. 556　$\begin{array}{r} 387 \\ +169 \\ \hline 556 \end{array}$　验算：$\begin{array}{r} 556 \\ -169 \\ \hline 387 \end{array}$

53　$\begin{array}{r} 602 \\ -549 \\ \hline 53 \end{array}$　验算：$\begin{array}{r} 549 \\ +53 \\ \hline 602 \end{array}$

929　$\begin{array}{r} 475 \\ +329 \\ \hline 804 \end{array}$　$\begin{array}{r} 804 \\ +125 \\ \hline 929 \end{array}$

120　$\begin{array}{r} 800 \\ -544 \\ \hline 256 \end{array}$　$\begin{array}{r} 256 \\ -136 \\ \hline 120 \end{array}$

六、1. （1）$307-233=74$（本）

答：11月比10月多读了74本书。

（2）$193+279+200=672$（本）

答：6月、7月、8月一共读了672本书。

2. （1）$382+165=547$（元）　$547>500$

答：能获奖。

（2）$382+120=502$（元）　$502>500$

答：买一辆自行车和一个玩具熊能获奖。（答案不唯一）

点拨：只要保证买东西花的总钱数的和大于或等于500元就行。

3. （1）$610-260-34=316$（本）

答：童话书有316本。

（2）$610-260=350$（本）

$610+350+316=1276$（本）

答：三种书一共有1276本。

4. $300-99-179=22$（元）

答：最多还能剩22元。

点拨：理解“最多剩多少元”实际上是花钱买的衣服的价格最低是解题关键。

附加题：

$\begin{array}{r} 460 \\ -137 \\ \hline 323 \end{array}$　$\begin{array}{r} 536 \\ +247 \\ \hline 783 \end{array}$

第六、七单元跟踪检测卷

解决问题　千克与克的认识

一、1. 30　2. 135　3. 63　4. 7000　6　2　4000

5. 990克 < 2900克 < 3千克 < 3100克 < 9999克 < 1001千克

6. 30　35　65

7. 16　39　16　128

二、1. ②　2. ③　3. ③　4. ②　5. ③

三、1. ×　2. ×　3. √　4. ×

四、1. <　=　<　=

2.

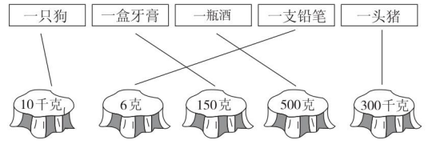

五、1. $622-248-118=256$（块）

2. $498+189+147=834$

六、1. 2千克 = 2000克　5千克 = 5000克

$2000+1500+5000=8500$（克）

8千克 = 8000克　$8500>8000$

答：不能同时过河。

2. （1）$2\times3+2=8$（元）

答：一共要花8元钱。

（2）$2\times4=8$（元）

$(20-8)\div2=6$（千克）

答：剩下的钱还可以买6千克茄子。

3. $900-446-108=346$（元）

$346<400$

答：还剩346元。不够买。

附加题：

①　√

点拨：前两个算式相减的差是□比○大的。

第八、九、十单元跟踪检测卷

时、分、秒的认识　收集数据　数学百花园

一、1. 120　1　380　60　1　54　150

2. （1）分钟　（2）秒　（3）分钟　（4）小时

3. （1）数学　（2）英语

4. 新华字典　作业本　文具盒

5. （1）　正下　正　正正　正一

（2）8　10　5　6

二、1. ②　2. ②　3. ②

三、1.

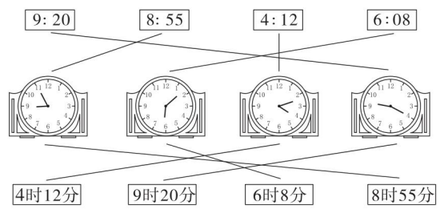

关注微信公众号“教辅资料站”获取更多学习资料

2. 

5：30　10：00　10：30　6：40

3. 6：30　25　6：55　35　7：30

四、1.

	美术	音乐	体育
王老师			√
刘老师		√	
张老师	√		

2. （1）

我	你	心	连	和
丅	下	正	丅	丅

（2）“心”字出现次数最多。“我”、“连”、“和”三个字出现次数一样多。

（3）2＋3＝5（次）

答：“我”和“你”一共出现了5次。

（4）4－2＝2（次）

答：“心”比“连”出现的次数多2次。

3. 第1名：小马　第2名：小兔

第3名：小狗

附加题：



点拨：理解可能在图书馆的时间只能在开馆时段内是解题关键。

期末总复习　模块过关卷（一）

数与代数　统计

一、1. 3003　三千零三

2. 8054

3. 400

4. 甲

5. 1　5

6. 1　5　1　25　3200　2　500

7. 300　8.（27＋8）÷7＝5

9. 2458　4258　5248　5428

二、1. ③　2. ①　3. ②　4. ①　5. ③

三、

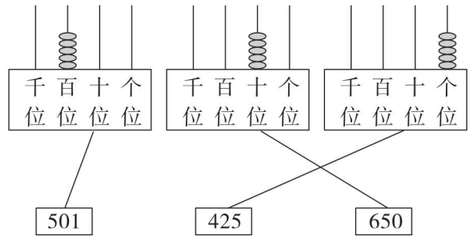

四、1. 4　320　470　60　8　222

2. 7……1

$$\begin{array}{r} 7 \\ 4\overline{)29} \\ 28 \\ \hline 1 \end{array}$$

871　546＋325＝871　验算：871－325＝546

115　602－487＝115　验算：115＋487＝602

3.（72－42）÷5＝30÷5＝6

23＋7×3＝23＋21＝44

（36÷4）×2＝9×2＝18

五、1. 50÷（2×3）＝8（天）……2（片）

答：这瓶钙片能吃8天，还剩2片。

2. 170－25＋35＝180（厘米）

答：3号运动员的成绩是180厘米。

3. 368－109－27＝232（本）

答：连环画有232本。

4. 5×8－12＝28（棵）

答：还剩28棵没栽。

5. 15　22

（1）张鹏　因为张鹏的票数多。

（2）不会改变，因为如果这三位同学都投李小红，李小红也只有18票，还是比张鹏的票数少。

附加题：

6－1＝5　10÷5＝2（秒）

10－1＝9　2×9＝18（秒）

答：敲10下用18秒。

点拨：时钟敲6下有5个间隔，用10秒，每个间隔是2秒，敲10下有9个间隔。

期末总复习　模块过关卷（二）

图形与几何

一、1. 南　北　东　西

2. 北　南　西　东

3. 南　熊猫馆　猴山

4. ②

5. √　√　√　×　√

二、1. ③　2. ①　3. ②　4. ②

三、1. ×　2. ×　3. ×　4. √　5. ×

四、

1. ①②③④⑤⑥⑦⑧⑨⓪

本　同　回　喜　田　图

L　H　N　A　＋　－　×　÷

2. 10：15　6：55　4：30

五、

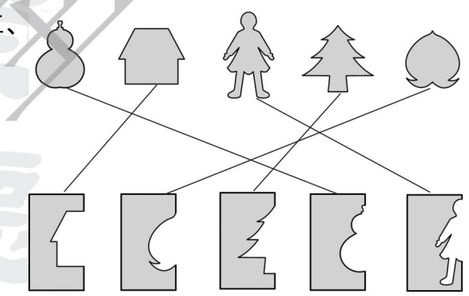

六、1. 北　小狗　小鹿

2. 60＋55＝115（米）

50＋70＝120（米）　115＜120

答：经过小猴家走近一些。

附加题：

3：00　4：30　10：10　10：40

期末总复习

仿真模拟卷（一）

一、1. 7214　7　2　1　4

2. 1101　1011　998　911　889

3. 6410　1046

4. 900

5. 克　秒　千克　时

6. 黄

7. 1

8. 甲

9. 鸡　60

点拨：

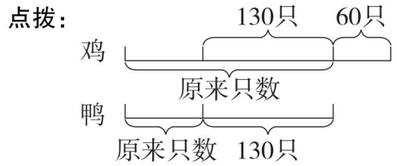

二、1. ②　2. ②　3. ②　4. ③　5. ①

三、1. 330　202　82　8　510　4

2. 551　810－259＝551　验算：551＋259＝810

510　374＋136＝510　验算：510－136＝374

1308　576＋198＋532＝1308

82　365－178＝187　验算：187－105＝82

3. 72÷（45－36）＝72÷9＝8

（7＋2）×2＝9×2＝18

四、

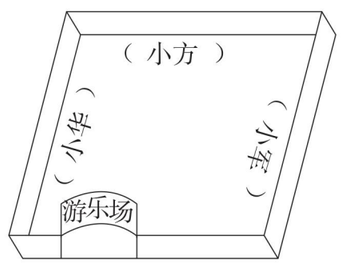

五、1. 65÷9＝7（个）……2（个）

答：这些鸡蛋能放满7个蛋托，还剩下2个鸡蛋。

2.（1）563＋305＋198＝1066（人）

答：三所学校一共有1066人。

关注微信公众号“教辅资料站”获取更多学习资料

（2）563 −（305 + 198）= 60（人）

答：多 60 人。

3. （150 − 96）÷ 6 = 9（千米）

答：平均每天要修 9 千米。

4. 60 − 7 × 5 = 25（页）

答：还有 25 页没有看。

5. （1）30　（2）12　6

附加题：

△ = 400　　○ = 1000

点拨：第二个算式比第一个算式多减一个△，差就小了 400，所以△ = 400，再用○ − △ = 600，即可算出○ = 1000。

期末总复习

仿真模拟卷（二）

一、1. 1005　1　5　1004　1006

2. 3　1

3. 9000　500

4. ＞　＜　＞　＜　＞　＞

5. 1　8　7

6. 3 小时 40 分钟

7. 1500　5100　1005　5001　1050　5010

二、1. ③　2. ③　3. ②　4. ②　5. ①

三、1. √　√　×　×

2. 北　郁金香　菊花

3.

	数学	语文	道德与法治
李老师	×	√	×
张老师	√	×	×
王老师	×	×	√

四、1. 820　540　9　6……1　600　48

2. 962　586 + 376 = 962　验算：962 − 376 = 586

417　904 − 487 = 417　验算：417 + 487 = 904

3. 48 + 9 × 5　　81 ÷（27 − 18）

= 48 + 45　　= 81 ÷ 9

= 93　　= 9

6 ×（52 − 43）

= 6 × 9

= 54

五、1. 35 ÷ 9 = 3（个）……8（个）

答：每个同学分到 3 个，还剩 8 个。

2. （1）葡萄　14　西瓜　6

（2）13 + 14 + 10 + 6 = 43（人）

答：二（1）班一共有 43 人。

3. （30 + 42）÷ 8 = 9（个）

答：需要 9 个袋子。

4. （1）80 − 9 × 8 = 8（元）

答：找回 8 元。

（2）（50 − 35）÷ 3 = 5（元）

答：一本笔记本 5 元。

附加题：

50 ÷ 6 = 8（千克）……2（千克）

2 + 8 = 10（千克）

答：稍重的那盒重 10 千克。

点拨：理解“稍重”的含义是解题的关键。

期末总复习

仿真模拟卷（三）

一、1. 1329　千　1　3　2　9

2. 4　1

3. 83 −（23 + 17）= 43

56 ÷（8 − 1）= 8

4. 30

5. 男

6. 3000 克 > 2000 克 > 1 千克 > 500 克 > 65 克

7. 二　三

8. 75　1　30　4　2200

二、1. ③　2. ①　3. ①　4. ②　5. ③

三、1.（1）西　（2）鸽子　蛇

2.



6：30　2：50　10：05

3.

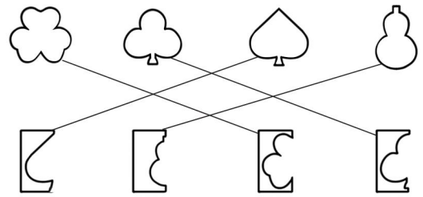

四、1. 1100　360　290　460　5　99

2. 7……3　7) 52　49　3

924　639 + 285 = 924　验算：924 − 285 = 639

329　503 − 174 = 329　验算：329 + 174 = 503

3. 602 − 528 + 359　　（90 − 36）÷ 9

= 74 + 359　　= 54 ÷ 9

= 433　　= 6

35 + 7 × 4

= 35 + 28

= 63

五、1. 11　17　5　13

2. 漫画　科技

3. 漫画

六、1.（30 + 42）÷ 8 = 9（组）

答：两人买的笔记本一共能分成 9 组。

2. 520 − 198 + 229 = 551（瓶）

3.（1）348 + 172 + 179 = 699（元）

答：一共需要 699 元。

（2）348 + 172 = 520（元）

348 + 179 = 527（元）

172 + 179 = 351（元）

351 < 500 < 520 < 527

500 − 351 = 149（元）

答：可以买到椅子和衣柜，还剩 149 元。

附加题：

350 − 19 = 331（元）

350 − 337 = 13（元）

答：书桌的价格是 337 元，应找给顾客 13 元。

点拨：解决看错数的问题，可以利用已知的结果运算，得出看错的数。

期末总复习

仿真模拟卷（四）

一、1. 四　千　6　3　630

2. 400

3. 东　南　北

4. 千克　克　秒　分钟

5. 5　6　6

6. 8：00　9：30　1　30

二、1. ×　2. ×　3. ×　4. √　5. ×

三、1. ①　2. ③　3. ②　4. ③

5.（1）①　（2）②

四、1. 211　433　32　4700　1540　55

5……5　7　54

2. 1318　526 + 792 = 1318　验算：1318 − 792 = 526

9……2　8) 74　72　2

778　448 + 102 = 550　550 + 228 = 778

281　1006 − 459 = 547　547 − 266 = 281

五、1. 甲：第一名　乙：第二名　丙：第三名

2.（36 + 18）÷ 6 = 9（朵）

答：每班可以分得 9 朵。

3. 405 −（530 − 145）= 20（箱）

答：水果店里的苹果比桃子多 20 箱。

4.（1）11　4　5　（2）易拉罐

（3）11 − 4 = 7（个）

答：少 7 个。

附加题：

604 −（79 − 16）= 541

答：正确的得数应该是 541。

点拨：理解把加数个位上的 6 看成 9，十位上的 1 看成 7，得出的结果比原来大了 63，是解题关键。

关注微信公众号“教辅资料站”获取更多学习资料

小卷：周测卷·专项卷·题型卷



01 周测培优卷（13套）

02 专项提升卷（3套）

03 题型突破卷（7套）

二年级 数学 下

（BJ版）

赠送 ZENG SONG

关注微信公众号“教辅资料站”获取更多学习资料



目录

周测培优卷

有余数的除法和探索规律 …… 01
两步混合运算 …… 03
两步混合运算解决实际问题 …… 05
识别轴对称图形和方向 …… 07
数数、读数、写数 …… 09
认识算盘、数的大小比较、数的估计 …… 11
用几百几十数加、减整百、整十数以及估算 …… 13
三位数加减三位数、连加 …… 15
三位数减三位数的退位减法 …… 17
用加减两步计算解决简单的、比多比少问题 …… 19
千克与克的认识及单位换算 …… 21
时、分、秒的认识及应用 …… 23
数据的收集和整理、分析与推理 …… 25

专项提升卷

有余数的除法和混合运算 …… 27
大数的认识与解决问题 …… 29
量与计量、数学百花园 …… 31

题型突破卷

填空题 …… 33
选择题 …… 35
计算题(一) …… 37
计算题(二) …… 39
操作探索题 …… 41
应用题(一) …… 43
应用题(二) …… 45

参考答案及点拨 …… 47

关注微信公众号“教辅资料站”获取更多学习资料

专项提升卷1 有余数的除法和混合运算

班级_____ 姓名_____ 时间：40分钟

提升点1：余数与除数的大小关系

1. 填空题。

（1）☆÷5=9……△，△最小是（　　），△最大是（　　）。

（2）□÷8=6……△，△最小是（　　），这时□是（　　）；△最大是（　　），这时□是（　　）。

2. 下面的计算对吗？（对的画“√”，错的画“×”）

（1）46÷5=8……6（　　）

（2）81÷8=9……9（　　）

（3）28÷3=9……1（　　）

提升点2：利用有余数的除法解决问题

3. 你能看图写出一个除法算式吗？试一试。

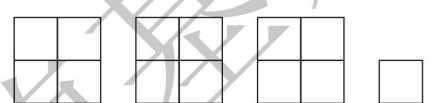

□÷□=□……□

4. 一卷绳子长39米，做一根晾衣绳用7米，这卷绳子可以做多少根这样的晾衣绳？还剩多少米？

5. 用3根小棒可以搭一个三角形，下面这些小棒可以搭几个三角形？



关注微信公众号“教辅资料站”获取更多学习资料

6. 有 35 块糖，按“东东、亮亮、方方、强强”的顺序，每人每次发 1 块，想一想，谁分到最后一块？

7. 二年级（1）班 39 人去郊游，如果一辆车限乘 6 人，那么他们至少需要租几辆车？

提升点 3：混合运算的运算顺序及相关的问题解决

8. 下面的计算对吗？如果不对，请改正。

（1）$8+16\div8$　改正：

$=24\div8$

$=3$

（　　）

（2）$(10-5)\times2$　改正：

$=10-10$

$=0$

（　　）

9. 36 名学生和 4 名教师，一共需要表演几个节目？



每4名学生表演1个节目



每名教师表演1个节目

10. 用 50 元钱买一个书包后，还可以买几本笔记本？



20元/个



5元/本

荣德基好卷

关注微信公众号“教辅资料站”获取更多学习资料

专项提升卷2 大数的认识与解决问题

班级_____ 姓名_____ 时间：40分钟

提升点1：万以内的数的读与写

1. 写一写，读一读。

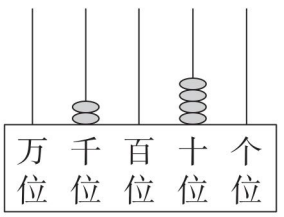

写作：（　　）

读作：（　　）

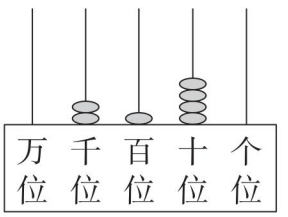

写作：（　　）

读作：（　　）

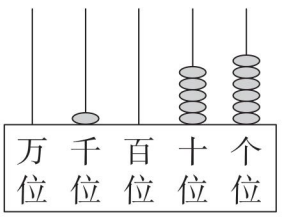

写作：（　　）

读作：（　　）

2. 用[6]、[0]、[6]、[4]这四张卡片摆出的四位数中，最大的数是多少？最小的呢？

3. 判断，对的画“√”，错的画“×”。



（　　）

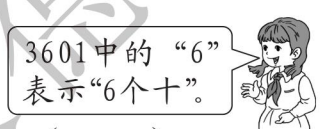

（　　）

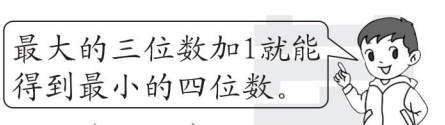

（　　）

提升点2：数的大小比较与估计

4. 填空题。

（1）估一估，图中大约有（　　）个橘子。

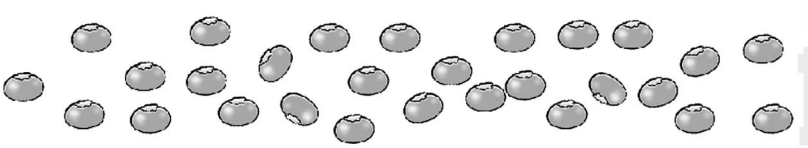

（2）先在□中填数，再比较它们的大小。

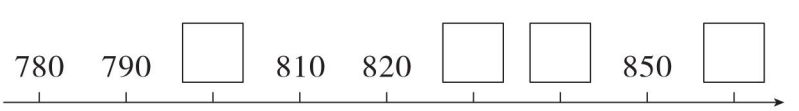

□ > □ > □ > □

关注微信公众号“教辅资料站”获取更多学习资料

5. 小明收集的邮票比小刚多一些，小刚收集的邮票比小兰少得多。在下表中填入三人的名字。

635 枚	595 枚	1003 枚

提升点 3：万以内数的进位加法与退位减法

6. 用竖式计算，带※的要验算。

326 + 239 =　　※538 − 219 =

※903 − 456 =　　※740 − 126 =

7. 看图列式并计算。

（1）



168个　242个　69个

?个

□○□○□ = □（个）

（2）



289箱　182箱　346箱

?箱

□○□○□ = □（箱）

8. 书店新购进 900 本故事书，新购进的科技书比故事书少 315 本，漫画书比科技书多 345 本，新购进漫画书多少本？

学德基好卷

关注微信公众号“教辅资料站”获取更多学习资料

专项提升卷3 量与计量、数学百花园

班级_____ 姓名_____ 时间：40分钟

提升点1：克与千克

1. 换算单位。

2千克 = （　　）克　　3000克 = （　　）千克

2千克200克 = （　　）克　　4100克 = （　　）千克（　　）克

2. 你知道懒羊羊重多少千克吗？自己算一算。



3. 先填一填，再回答问题。



（1）（　　）个苹果重1000克，（　　）个桃子重1千克，（　　）个萝卜重1000个1克。

（2）小梦妈妈最多买3000克的商品，并且三种商品都要买，猜一猜，她会怎样买？

荣德基好卷

关注微信公众号“教辅资料站”获取更多学习资料

4. 买水果。

买 1 千克桃和 2 千克葡萄共要多少元钱？

苹果	3元/500克
梨	2元/500克
葡萄	8元/500克
桃	5元/500克



提升点 2：时、几时几分、秒的认识及其运用

5. 我会填。

3 分 12 秒 = （　　）秒　　90 分 = （　　）时（　　）分

240 分 = （　　）时　　75 秒 = （　　）分（　　）秒

6. 我会算。

（1）算一算，填一填。



：　　：

（2）看完书后，小明又踢了 30 分钟足球，休息了 15 分钟后回家，他回家的时间是（　　）时（　　）分。

提升点 3：分析与推理

7. 下面三位小朋友的年龄分别是 6 岁、7 岁、8 岁。



小红（　　）岁，小芳（　　）岁，小明（　　）岁。

8. 下面 3 个小朋友分别出生在哪？连一连。



出生在上海　　出生在广州　　出生在北京

荣德基好卷

关注微信公众号“教辅资料站”获取更多学习资料

题型突破卷1 填空题

班级_____ 姓名_____ 时间：40分钟

专项1：有余数的除法

1. 有38粒纽扣，平均每件上衣需要6粒纽扣，这些纽扣可以钉（　　）件上衣。

2. 15只兔子，每个笼子可以住4只，一共需要（　　）个笼子。

3. □÷6=3……□，余数可能是（　　），最大是（　　）。

4. 像这样排下去，第15个图形是（　　），第26个图形是（　　）。

△△◎△△◎△△◎……

专项2：混合运算

5. 算一算，填一填。

$6\times(27-24)=\square$　　$32\div(28-20)=\square$

6. 在◯里填上“+”“-”“×”或“÷”。

$12+9\bigcirc3=15$　　$24-4\bigcirc4=8$

$8\times(7\bigcirc4)=24$　　$21\div(5\bigcirc2)=3$

7. 把$42-35=7$，$7\times8=56$合并成一个算式是（　　）。

专项3：对称与方向

8. 图（　　）是轴对称图形。


①


②



③

9. 图书馆在学校的北面，丽丽要从学校回家应往（　　）走，要从图书馆去游泳馆，应往（　　）走。

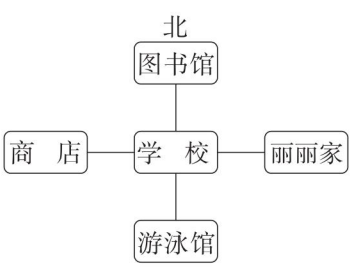

荣德基好卷
关注微信公众号“教辅资料站”获取更多学习资料

专项 4：万以内的数的认识和加减法

10. 一个数由 3 个千，3 个十和 3 个一组成，这个数写作：（　　），读作：（　　）。

11. 在□里填上合适的数。

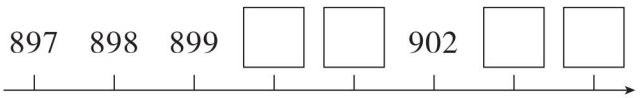

□ ＜ 902

12. 用 3、0、0、5 四个数字组成只读一个零的四位数有（　　）、（　　）、（　　）、（　　），组成两个零都不读的四位数有（　　）和（　　）。

13. 一台电脑的售价是 4980 元，接近于（　　）元，一辆自行车的售价是 320 元，接近于（　　）元。

专项 5：解决问题

14. 荣荣集了 35 个赞，送给德德、乐乐和笑笑每人 4 个，荣荣还剩下（　　）个赞。

15. 如图，一把剪刀和一个转笔刀相比，（　　）贵，贵（　　）元。



16. 荣荣、德德、丽丽、莹莹参加跳远比赛，荣荣比德德跳得远，德德比丽丽跳得远，莹莹跳得最近，（　　）跳得最远。

专项 6：千克、克、时、分、秒的认识

17. 在○里填上“＞”“＜”或“＝”。

990 克○1 千克　　3000 克○3 千克　　2 千克○1980 克

18. 算一算，填一填。

1 千克 − 700 克 = （　　）克　　6000 克 = （　　）千克

3 千克 = （　　）克　　（　　）分 = 120 秒

1 时 20 分 = （　　）分　　180 分 = （　　）时

19. 读图填空。

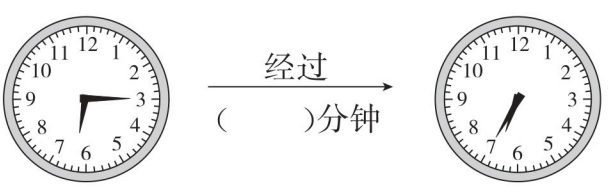

□：　　□：

荣德基好卷

关注微信公众号“教辅资料站”获取更多学习资料

题型突破卷2 选择题

班级_____ 姓名_____ 时间：40分钟

专项1：有余数的除法

1. 学校买了一些足球，数量在25～29个之间，平均分给4个班，还剩2个，学校一共买了（　　）个足球。

①28　　②27　　③26

2. △△□□□☆☆△△□□□☆☆……像这样重复下去，第44个图形是（　　）。

①△　　②□　　③☆

3. 40多本科技绘本图书，平均分给6个小组后还剩5本，可能有（　　）本科技绘本图书。

①48　　②45　　③47

专项2：混合运算

4. 下面的算式中，与12－3×4结果一样的是（　　）。

①12÷4×3　　②12－4×3　　③（12－3）×4

5. 看图列式，还剩下多少个圆片？正确的是（　　）。



①4×6－6　　②4×6＋6　　③4×6÷6

专项3：对称与方向

6. 在我国境内，树木枝叶比较茂盛的一面朝向（　　）面。

①东　　②南　　③北

7. 下面（　　）中的汉字是对称的。

①国　　②甲　　③春

专项4：万以内的数的认识和加减法

8. 一个四位数，各个数位上的数字的和是10，个位上的数字比十位上的数字多4，百位上的数字和千位上的数字相同，这个数可能是（　　）。

①3315　　②2404　　③1126

9. 三个教室分别有图书106本、200本和248本，甲教室比乙教室多得多，比丙教室少一些，丙教室有（　　）本图书。

①200　　②106　　③248

荣德基好卷
关注微信公众号“教辅资料站”获取更多学习资料

10. 丁丁和冬冬是环保小卫士，丁丁收集了385节废旧电池，冬冬说：“我收集的比你多，我收集了大约420节，我收集的废旧电池节数的个位上的数字与十位上的数字之和是最大的一位数。”冬冬收集了（　　）节废旧电池。

①419　　②421　　③418

11. 3月12日，新安小学组织五、六年级学生参加植树活动。六年级植树572棵，五年级比六年级少植树183棵，一共植树多少棵？列式正确的是（　　）。

①572＋183　　②572－183　　③572－183＋572

专项5：解决问题

12. 两组同学练习投篮，第一组投了145个，第二组投了138个，两组再投（　　）个，就能达到300个。

①25　　②17　　③14

13. 在二年级文明评比活动中，（1）班得了36分，（2）班比（1）班多得15分，（3）班比（2）班少得9分，（3）班得了（　　）分。

①42　　②30　　③60

专项6：千克、克、时、分、秒的认识

14. 如果每个袋子能装5千克大米，要装完37千克大米，需要（　　）个这样的袋子。

①7　　②8　　③9

15. （　　）时整，时针和分针成直角。

①3　　②6　　③12

16. 某高铁下午3:15发车，路上用了4时35分，晚上（　　）到达。

①1时20分　　②7时50分　　③8时

17. 60米赛跑，小红用10秒，小白用11秒，小青用12秒，三人中（　　）跑得最快。

①小红　　②小青　　③小白

专项7：数学百花园

18. 李军、王红和李明参加测试，李军比王红成绩高，李明比王红成绩高，比李军低一些，三人中，（　　）的成绩最高。

①李军　　②王红　　③李明

荣德基好卷

关注微信公众号“教辅资料站”获取更多学习资料

题型突破卷3 计算题（一）

班级_____ 姓名_____ 时间：40分钟

专项1：有余数除法的口算和竖式计算

1. 直接写得数。

21 ÷ 4 =　　17 ÷ 3 =　　34 ÷ 7 =

25 ÷ 3 =　　14 ÷ 3 =　　58 ÷ 8 =

2. 森林医生。（先判断对错，再改正）

```
    5
6⟌3 7
  3 0
    7
```
（　　）　改正：

```
    8
9⟌7 0
  7 2
    2
```
（　　）　改正：

3. 用竖式计算。

23 ÷ 5 =　　19 ÷ 4 =　　43 ÷ 5 =

48 ÷ 9 =　　35 ÷ 8 =　　30 ÷ 7 =

专项2：没有小括号的混合运算

4. 在□里填上合适的数。

45 − 56 ÷ 8 = □　　81 ÷ 9 − 5 = □　　32 + 4 × 6 = □

5. 夺小旗。

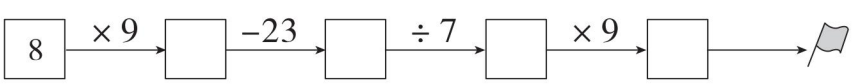

关注微信公众号“教辅资料站”获取更多学习资料

6. 脱式计算。

18 + 42 ÷ 6　　60 − 40 ÷ 5　　20 + 3 × 5

63 − 63 ÷ 7　　68 − 72 ÷ 8　　81 ÷ 9 + 2

专项 3：有小括号的混合运算

7. 直接写得数。

2 × (20 ÷ 4) =　　72 ÷ (58 − 50) =　　(45 − 15) ÷ 6 =

(50 − 26) ÷ 6 =　　52 − (13 + 28) =　　12 ÷ (2 × 3) =

8. 在□里填上合适的数，在横线上列出综合算式。

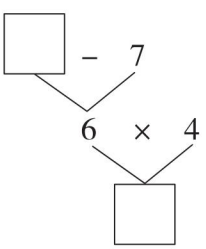

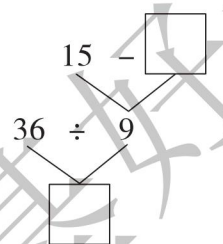

_____　　_____

9. 在□里填上合适的数。

45 ÷ (20 − □) = 5　　48 ÷ □ = 20 − (7 + 5)

10. 脱式计算。

(14 + 7) ÷ 3　　4 × (16 − 9)　　63 ÷ (46 − 37)

11. 下面的算式正确吗？如果不正确，请添加小括号。

(1) 105 − 17 + 23 = 65　　(2) 3 + 4 × 5 = 35

荣德基好卷

关注微信公众号“教辅资料站”获取更多学习资料

题型突破卷4 计算题（二）

班级_____ 姓名_____ 时间：40分钟

专项1：数的估计与估算

1. 直接写得数。

286 + 213 ≈　　518 + 198 ≈　　904 − 499 ≈　　781 − 398 ≈

2. 填一填。

（1）4 □ 5 + 4 □ 6 ≈ 900　　（2）3 □ 8 + 2 □ 7 ≈ 600

专项2：万以内数的加减法

3. 改正下面各题中的错误。

```
  2 0 6
+ 5 9 8
-------
  7 9 4
```
改正

```
  4 2 0
- 2 6 5
-------
  2 6 5
```
改正

4. 在□里填上合适的数。

```
  1 □ 6
+ □ 2 □
-------
  7 4 2
```

```
  9 □ 3
- □ 5 6
-------
  3 6 □
```

```
  3 □ 6
- □ 8 □
-------
  1 6 8
```

5. 算一算。

380
190

和：_____

差：_____

240
160

和：_____

差：_____

520
180

和：_____

差：_____

6. 填表。

被减数	735	223	411	
减数			114	273
差	247	89		372

荣德基好卷

关注微信公众号“教辅资料站”获取更多学习资料

7. 在◯里填上“＞”“＜”或“＝”。

375 + 251 ◯ 374 + 252　　469 − 358 ◯ 465 − 343

582 + 108 ◯ 723 − 115　　722 − 220 ◯ 400 + 92

8. 用竖式计算下面各题，带☆的要验算。

☆596 + 305 =　　☆968 − 679 =

541 − 275 =　　257 + 432 + 668 =

867 − 164 − 349 =　　379 + 221 − 436 =

9. 请你用下面的五个数按要求写出算式。（各写 2 个）



加法算式：＿＿＿＿＿＿　＿＿＿＿＿＿

减法算式：＿＿＿＿＿＿　＿＿＿＿＿＿

10. 在（　　）里填上合适的数。



△ =（　　）

□ =（　　）

☆ =（　　）

荣德基好卷

关注微信公众号“教辅资料站”获取更多学习资料

题型突破卷5 操作探索题

班级_____ 姓名_____ 时间：40分钟

专项1：认识轴对称图形

1. 下面的图形中，是轴对称图形的画“√”，不是的画“×”。


（　　）

（　　）

（　　）

（　　）

（　　）

（　　）

2. 下面的图形中，是轴对称图形的有（　　）。（填序号）

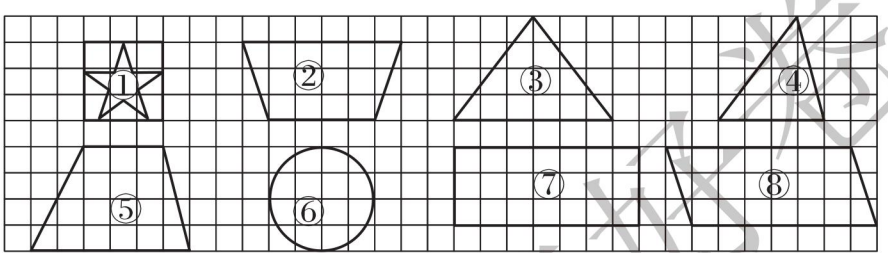

3. 从镜子中看到的左边的图形是（　　）。



专项2：认识方向

4. 填写方向。

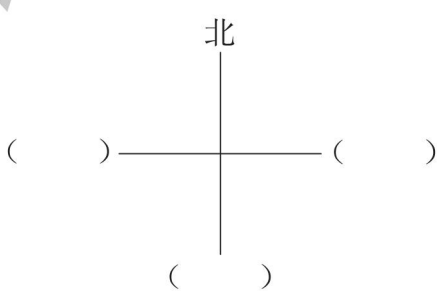

5. 填空题。

（1）早晨，你面对太阳，你的前面是（　　）方，你的后面是（　　）方，你的左面是（　　）方，你的右面是（　　）方。

（2）我的右面是西，我的前面是（　　），我的后面是（　　），我的左面是（　　）。

关注微信公众号“教辅资料站”获取更多学习资料

6.

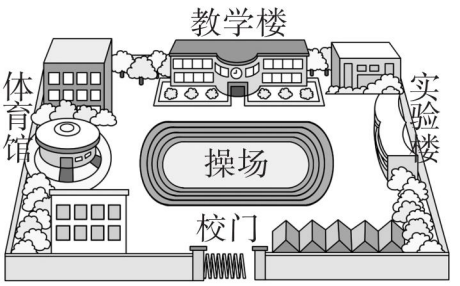

教学楼在校园的北面，
实验楼在校园的_____面，
校门在校园的_____面，
校园的_____面是体育馆。

专项3：数据的收集

7. 下面是某小学二年级（1）班部分学生的体重情况。

学号	体重情况	学号	体重情况	学号	体重情况
1	偏轻	8	正常	15	正常
2	正常	9	正常	16	超重
3	正常	10	正常	17	肥胖
4	正常	11	正常	18	超重
5	超重	12	超重	19	肥胖
6	正常	13	正常	20	肥胖
7	正常	14	正常		

（1）把上面的统计结果填入下面的统计表中。

体重情况	肥胖	超重	正常	偏轻
人数				

（2）体重正常的有（　　）人，体重不在正常范围内的有（　　）人。

（3）肥胖和超重的总人数比正常体重的人数少多少人？

荣德基好卷

关注微信公众号“教辅资料站”获取更多学习资料

题型突破卷6 应用题（一）

班级_____ 姓名_____ 时间：40分钟

专项1：解答有余数除法问题

1. 每个盒子装8个乒乓球，45个乒乓球至少需几个盒子才能装完？

2. 有玫瑰花26枝，百合花10枝，玉兰花20枝。如果用6枝玫瑰花、2枝百合花、3枝玉兰花扎成一束。这些花最多可以扎成几束这样的花束？

专项2：用有余数的除法解答“探索规律”类问题

3. 按照这样的规律摆下去，第18个是什么图形？前18个图形中△有多少个？

△△○○○△△○○○……

专项3：运用混合运算解决问题

4. 老师买1盒彩笔和7本故事书，一共需要多少元？



24元/盒　3元/本

5. 同学们计划植树60棵，已经植了25棵，剩下的平均分给5个小组，每个小组要植多少棵树？

关注微信公众号“教辅资料站”获取更多学习资料

6. 300元买下面的一套衣服，应该如何买？还剩下多少元？

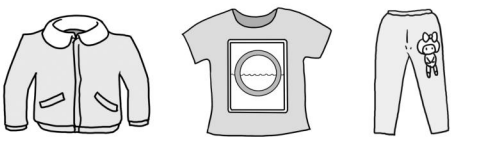

①149元　②109元　③169元

7. 从学校到医院，有三条路线可以走，走哪条路线最近？

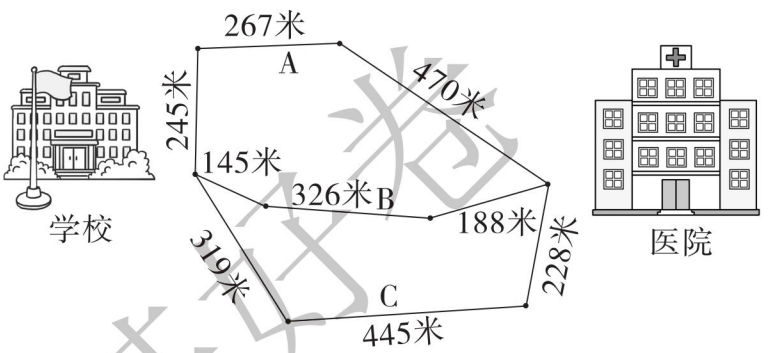

8. 看图解决问题。

（1）故事书有多少本？

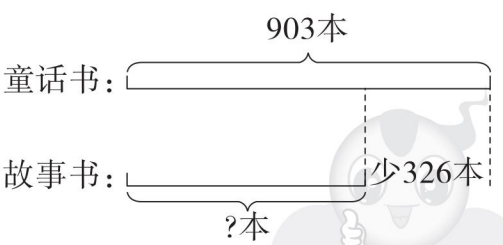

（2）漫画书有多少本？

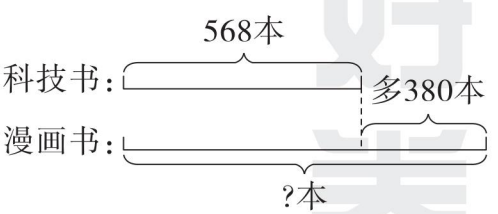

荣德基好卷

关注微信公众号“教辅资料站”获取更多学习资料

题型突破卷7 应用题（二）

班级_____ 姓名_____ 时间：40分钟

专项1：看图列式问题

1. 看图列式计算。

（1）

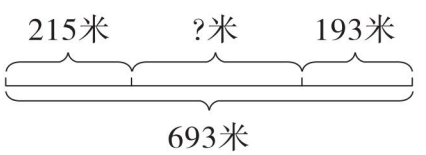

（2）

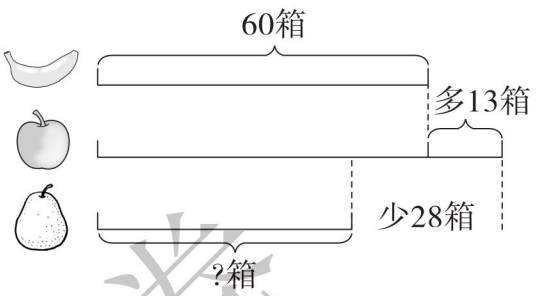

专项2：比多（少）实际问题

2. 汽车展销会上，A 品牌汽车有 132 辆，B 品牌汽车比 A 品牌汽车少 59 辆，C 品牌汽车比 B 品牌汽车多 25 辆，C 品牌汽车有多少辆？

3. 张叔叔钓了一些鱼，送给王叔叔 12 条，送给李叔叔的鱼比送给王叔叔的少一半，剩下的和送出的一样多，张叔叔一共钓了多少条？

荣德基好卷

关注微信公众号“教辅资料站”获取更多学习资料

专项 3：千克、克、时、分、秒实际问题

4. 荣荣的体重是 24 千克，妈妈比她重 18 千克，爸爸的体重等于荣荣和妈妈的体重之和，爸爸的体重是多少千克？

5. 把这些苹果平均分给 5 个班，每个班分到多少千克？



6. 电影院 9：45 开始放映电影，电影院规定提前半小时进场，电影院几时几分开始进场？

专项 4：分析与推理

7. 二年级进行书法比赛。王晨、李响、程琳获得了前三名。王晨说：“我不是第一名。”李响说：“我不是第二名，也没有程琳成绩好。”请排列出三人的名次。

荣德基好卷

关注微信公众号“教辅资料站”获取更多学习资料

参考答案及点拨（小卷）

周测培优卷 1

有余数的除法和探索规律

一、1. 9　1

2. 4　2　3　4　2　圈一圈略。　3. □

4. 26 ÷ 4 = 6 …… 2

$$\begin{array}{r} 6 \\ 4\overline{)\,2\;6} \\ \underline{2\;4} \\ 2 \end{array}$$

想：4和（6）相乘的积最接近26，而且小于26。

5. 2……2　3……3　3……3　3……2

余数是2：8 ÷ 3　17 ÷ 5

余数是3：15 ÷ 4　21 ÷ 6

6. 4　1　小

7. 4　7　8

二、×　$\begin{array}{r} 7 \\ 2\overline{)\,1\;5} \\ \underline{1\;4} \\ 1 \end{array}$　　×　$\begin{array}{r} 7 \\ 5\overline{)\,3\;6} \\ \underline{3\;5} \\ 1 \end{array}$

三、7……4　5……5　7……6　9……1

$\begin{array}{r} 7 \\ 9\overline{)\,6\;7} \\ \underline{6\;3} \\ 4 \end{array}$　$\begin{array}{r} 5 \\ 8\overline{)\,4\;5} \\ \underline{4\;0} \\ 5 \end{array}$　$\begin{array}{r} 7 \\ 7\overline{)\,5\;5} \\ \underline{4\;9} \\ 6 \end{array}$　$\begin{array}{r} 9 \\ 3\overline{)\,2\;8} \\ \underline{2\;7} \\ 1 \end{array}$

四、1. 20 ÷ 4 = 5（组）

答：第20面彩旗是绿色的。

34 ÷ 4 = 8（组）……2（面）

答：第34面彩旗是黄色的。

2. 33 ÷ 5 = 6（件）……3（个）

答：可以钉6件衣服，还剩下3个。

3. 48 ÷ 7 = 6（盘）……6（个）

6 ÷ 2 = 3（盘）

答：可以装6大盘，3小盘。

周测培优卷 2

两步混合运算

一、1. 24　12　8　6

2. 乘　除　加　减　小括号

3. 12　4. 6

二、1. ②　2. ③

三、=　<　>　>

四、1.
$$\begin{aligned} &5+3\times4 \\ &=5+12 \\ &=17 \end{aligned}$$
$$\begin{aligned} &36-8\div4 \\ &=36-2 \\ &=34 \end{aligned}$$

2. 8　8　64 ÷ (3 + 5) = 8

9　30　21 + 45 ÷ 5 = 30

五、
$$\begin{aligned} &24\div3\times2 \\ &=8\times2 \\ &=16 \end{aligned}$$
$$\begin{aligned} &42-8\times3 \\ &=42-24 \\ &=18 \end{aligned}$$
$$\begin{aligned} &(30+18)\div6 \\ &=48\div6 \\ &=8 \end{aligned}$$
$$\begin{aligned} &7\times(8\div2) \\ &=7\times4 \\ &=28 \end{aligned}$$

六、45 + 4 × 9 = 81（元）

(100 − 80) ÷ 4 = 5（元）

七、1. 10　9　5　8

2. +　×　−　+　−　−

周测培优卷 3

两步混合运算解决实际问题

一、1. 加　乘　乘　加　65

2. 6　(13 + 17) ÷ 5 = 6（组）

二、1. ③　2. ②

三、
$$\begin{aligned} &62-(24+12) \\ &=62-36 \\ &=26 \end{aligned}$$
$$\begin{aligned} &56\div(28-20) \\ &=56\div8 \\ &=7 \end{aligned}$$
$$\begin{aligned} &3+6\times9 \\ &=3+54 \\ &=57 \end{aligned}$$

四、1. 3 × 7 + 12 = 33（只）

答：他们一共折了33只。

2. (100 − 46) ÷ 6 = 9（辆）

答：需要9辆小车。

3. (27 + 36) ÷ 9 = 7（名）

答：一共需要7名老师。

4. （1）50 − 8 × 4 = 18（元）

答：应找回18元。

（2）52 − 8 × 5 = 12（元）

12 ÷ 3 = 4（个）

答：能买4个。

关注微信公众号“教辅资料站”获取更多学习资料

周测培优卷4

识别轴对称图形和方向

一、1.



（√）（√）（ ）

（√）（ ）（√）

2.



（ ）（√）（ ）

（√）（√）（ ）

3. 6　东　西

4.

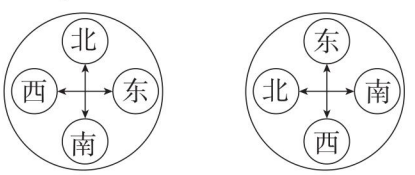

5. 西

二、1.

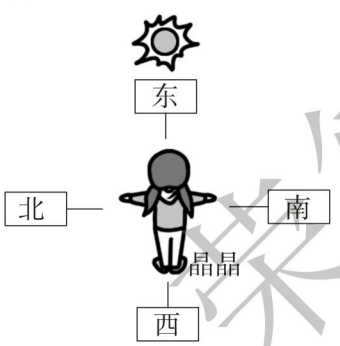

2.

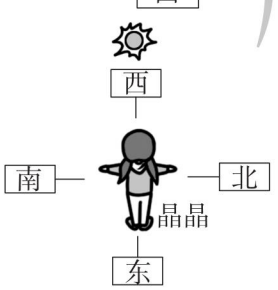

3.

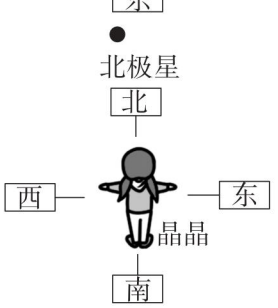

三、北　食堂　南

四、1. ①②③　2. ②

周测培优卷5

数数、读数、写数

一、1. 10　一千

2. 2738　2740　5198　5200　5201

3. 2374　二千三百七十四　四　千　2　2

4. 2　1　2　2012　二千零一十二

5. 5　2　20

二、1.

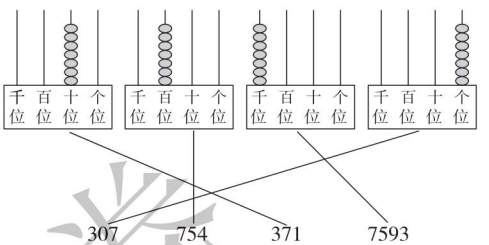

2. （1）2103

（2）1625

3.

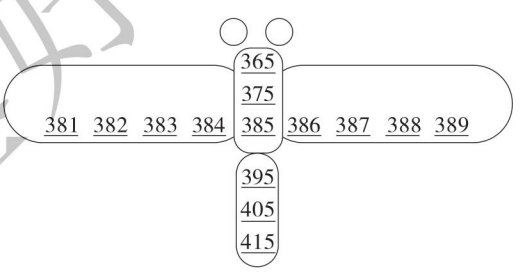

4. 1000　2000　3000　4000　6000

7000　8000　9000　10000

（1）100　100

（2）

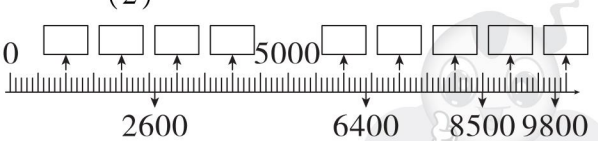

5. 2315　二千三百一十五

3033　三千零三十三

三、1. 5700　7500　2. 5007　7005　7050

5070

周测培优卷6

认识算盘、数的大小比较、数的估计

一、1. 档　梁　框　上珠　下珠

（1）数位　0

荣德基好卷

关注微信公众号“教辅资料站”获取更多学习资料

（2）1　5

2. 2406　6200

3. 100　200

4. （1）2467　8764　（2）2046　9642

二、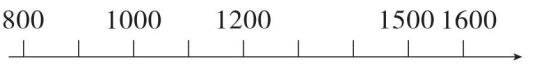

1500　1200　800

三、>　<　<　>　=　>

四、√　3408

五、1. 489　3999　4083　4738　4783

2. 7　4　5　3. 5　8　8

4. 6　1　7　（答案不唯一）

六、1. 冬冬　明明

2. 多一些　少得多　少一些　多得多

周测培优卷7

用几百几十数加、减整百、整十数以及估算

一、500　70　130　630　400　10　90

490　530　100　50　580　610

100　70　680

二、400　4000

三、70　730　600　690　510　650　300

650　720　730　930　680

四、1. 462＋229≈700（只）

答：两个班大约共折纸鹤700只。

2. 140＋80＝220（只）

答：大宝吃的害虫最多，二宝吃的害虫最少。相差220只。

点拨：大宝比妈妈多吃的害虫只数加上二宝比妈妈少吃的害虫只数，就是大宝比二宝多吃的害虫只数。

3. （1）900－600＝300（人）

答：5月3日比5月1日多300人乘坐观光车。

（2）750＋900＝1650（人）

答：5月2日和5月3日一共有1650人乘坐观光车。

4. 530＋460＝990（个）　990＞960

答：座位够。

周测培优卷8

三位数加减三位数、连加

一、416　856　425

二、422　827 − 405 = 422　验算：422 + 405 = 827

923　596 + 327 = 923　验算：923 − 327 = 596

219　456 − 237 = 219　验算：219 + 237 = 456

405　147 + 258 = 405　验算：405 − 147 = 258

三、894　147 + 423 + 324 = 894　789　368 + 172 + 249 = 789

四、1. 165＋134＝299（张）

答：二人一共发了299张宣传单。

2. 296＋802＋98≈1200（元）

答：大约需要1200元。

3. （1）224＋105＝329（人）

答：踢足球的和画画的一共有329人。

（2）275－105＝170（人）

答：唱歌的比画画的多170人。

（3）275－224＝51（人）

答：踢足球的再加上51人就和唱歌的一样多了。

周测培优卷9

三位数减三位数的退位减法

一、1. 389　332　435

2. 144　147　594　625　280　362

3. 300－289　400－256　203＋117

900－560

4. 277　900 − 623 = 277　验算：277 + 623 = 900

1200　678 + 522 = 1200　验算：1200 − 678 = 522

关注微信公众号“教辅资料站”获取更多学习资料

955　257　+618　955　验算：−698　257

276　509　−233　276　验算：+2133　509

1547　548　358　+6141　1547

953　960　−348　612　+341　953

二、1.（1）426 + 235 = 661（米）

答：山路一共要走 661 米。

（2）661 − 580 = 81（米）

答：山路与平路相比，相差 81 米。

2.（1）300 − 256 = 44（元）

答：找回 44 元。

（2）402 − 189 = 213（元）

答：一件外套比一件短袖贵 213 元。

3.（1）413 + 327 ≈ 750（人）

750 < 900

答：座位数够。

（2）900 − 413 − 327 = 160（个）

答：还剩下 160 个座位是空的。

周测培优卷 10

用加减两步计算解决简单的、比多比少问题

一、1. 19　18　13　9　2. 42　7　8　6

二、方法一：100 −（73 + 18）= 9（元）

答：还剩下 9 元。

方法二：100 − 73 − 18 = 9（元）

答：还剩下 9 元。

三、1. 151 + 35 − 112 = 74（cm）

答：企鹅高 74 cm。

2. 460 + 460 + 120 = 1040（元）

答：买自行车和微波炉一共需要 1040 元。

四、1. 235 + 235 − 85 = 385（米）

答：上山和下山一共走了 385 米。

2. 159 + 23 − 17 = 165（人）

答：三年级划船的有 165 人。

3.（1）303 + 98 − 127 = 274（页）

答：丽丽看了 274 页。

（2）500 − 303 − 129 = 68（页）

答：他还剩 68 页没看。

周测培优卷 11

千克与克的认识及单位换算

一、1. 克　g　g　千克　kg　kg

2. 500　1　3. 1000　1

4. >　=　>　>

5. 克　克　千克　克

二、1. ③　2. ①　3. ③

三、800 克　3 千克或 3000 克　2500 克　1400 克

四、



五、1. 300 − 240 = 60（克）

60 + 60 = 120（克）

60 + 60 + 60 = 180（克）

答：3 号杯里的橙汁约重 120 克，4 号杯里的橙汁约重 180 克。

点拨：求出 2 号杯里的橙汁重多少克是解题关键。

2. 150 + 150 = 300（g）

8 × 2 = 16（元）

100 + 100 + 100 = 300（g）

6 × 3 = 18（元）

16 < 18　18 − 16 = 2（元）

答：买 2 盒大盒的巧克力便宜，便宜 2 元。

周测培优卷 12

时、分、秒的认识及应用

一、1. 时　分

2. 12　60　1　1　5

关注微信公众号“教辅资料站”获取更多学习资料

3. 60　60

4. （1）11　5　11∶05　12　55

12∶55

（2）11∶40　4∶15　45分　5∶00

5. 40　10　80（答案不唯一，合理即可）

6. 1　130　3　1　20　1　30　180

二、1. 分钟　2. 秒　3. 分钟　4. 秒

5. 小时　6. 秒

三、



4∶20



6∶45



12∶00



1∶05

四、1. 1分20秒＝80秒　80＜85

85－80＝5（秒）

答：亮亮跑得快，快5秒。

2. （1）云盘小区：从9∶05到9∶40过了35分钟。

山水小区：从9∶15到9∶55过了40分钟。

35＜40

答：山水小区的停电时间长。

（2）9∶30再过25分钟就是9∶55。

答：他住在山水小区。

周测培优卷13

数据的收集和整理、分析与推理

一、1.（1）5　（2）33　（3）王小红　李林

2. 甲　乙

3. 小刚　小明　小红　小华

二、1.

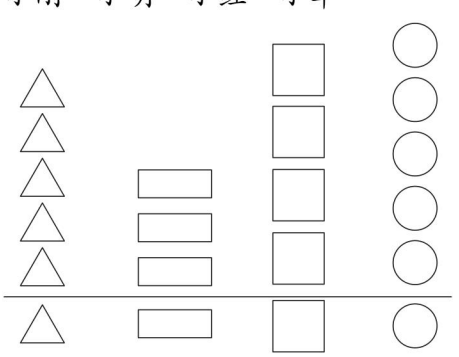

（ 5 ）个　（ 3 ）个　（ 4 ）个　（ 5 ）个

2. 三角形和圆的数量同样多。

三、16＜17＜18＜20　20－16＝4（秒）

答：小芳跑得最快，小丽跑得最慢，慢4秒。

四、灰兔跑得最快，白兔跑得最慢。

五、1.

小	螺	号	吹
正	正一	正一	正

2. 吹　小　螺　号

3. 12

期末总复习

专项提升卷1　有余数的除法和混合运算

1.（1）1　4　（2）1　49　7　55

2.（1）×　（2）×　（3）√

3. 13÷4＝3……1

（答案不唯一，合理即可）

4. 39÷7＝5（根）……4（米）

答：这卷绳子可以做5根这样的晾衣绳，还剩4米。

5. 19÷3＝6（个）……1（根）

答：下面这些小棒可以搭6个三角形。

6. 35÷4＝8（次）……3（块）

答：方方分到最后一块。

7. 39÷6＝6（辆）……3（人）

6＋1＝7（辆）

答：他们至少需要租7辆车。

8.（1）×　　（2）×

改正：8＋16÷8　　改正：（10－5）×2

＝8＋2　　＝5×2

＝10　　＝10

9. 36÷4＋4＝13（个）

答：一共需要表演13个节目。

10.（50－20）÷5＝6（本）

答：还可以买6本笔记本。

期末总复习

专项提升卷2　大数的认识与解决问题

1. 2040　二千零四十　2140　二千一百四十

1056　一千零五十六

关注微信公众号“教辅资料站”获取更多学习资料

2. 6640　4066

3. ×　×　√

4. (1) 30

(2) 800　830　840　860

860　840　830　800

5. 小明　小刚　小兰

6. 565

$$\begin{array}{r} 326 \\ +239 \\ \hline 565 \end{array}$$

319

$$\begin{array}{r} 538 \\ -219 \\ \hline 319 \end{array}$$

验算：

$$\begin{array}{r} 319 \\ +219 \\ \hline 538 \end{array}$$

447

$$\begin{array}{r} 903 \\ -456 \\ \hline 447 \end{array}$$

验算：

$$\begin{array}{r} 447 \\ +456 \\ \hline 903 \end{array}$$

614

$$\begin{array}{r} 740 \\ -126 \\ \hline 614 \end{array}$$

验算：

$$\begin{array}{r} 614 \\ +126 \\ \hline 740 \end{array}$$

7. (1) 168 + 242 + 69 = 479 (个)

(2) 289 + 182 + 346 = 817 (箱)

8. 900 − 315 + 345 = 930 (本)

答：新购进漫画书 930 本。

期末总复习

专项提升卷 3　量与计量、数学百花园

1. 2000　3　2200　4　100

2. 9 + 9 = 18 (千克)

答：懒羊羊重 18 千克。

3. (1) 5　8　4

(2) 买 5 个苹果，8 个桃子，4 个萝卜。(答案不唯一)

4. 500 + 500 = 1000 (克)

5 × 2 = 10 (元)

500 + 500 + 500 + 500 = 2000 (克)

8 × 4 = 32 (元)

10 + 32 = 42 (元)

答：买 1 千克桃和 2 千克葡萄共要 42 元钱。

5. 192　1　30　4　1　15

6. (1) 3∶05　40　3∶45

(2) 4　30

7. 8　7　6

8.

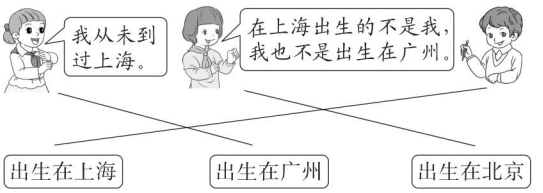

期末总复习

题型突破卷 1　填空题

1. 6

2. 4

3. 2 (1—5 的数都可以)　5

4. ◎　△

5. 3　18　8　4

6. ÷　×　−　+

7. (42 − 35) × 8 = 56

8. ②

9. 东　南

10. 3033　三千零三十三

11. 900　901　903　904

897 (最后一空答案不唯一)

12. 3050　3005　5030　5003　5300

3500

13. 5000　300

14. 23

15. 转笔刀　1

16. 荣荣

17. <　=　>

18. 300　6　3000　2　80　3

19. 6∶15　20　6∶35

期末总复习

题型突破卷 2　选择题

1. ③　2. ①　3. ③　4. ②

5. ①　6. ②　7. ②　8. ③

9. ③　10. ③　11. ③

12. ②　13. ①

14. ②　**点拨：**要装完所有大米，余下的 2 千克也要用一个袋子。

15. ①　16. ②　17. ①

18. ①

荣德基好卷

关注微信公众号“教辅资料站”获取更多学习资料

期末总复习

题型突破卷3　计算题（一）

1. 5……1　5……2　4……6　8……1
   4……2　7……2

2. ×　改正：
$$\begin{array}{r} 6 \\ 6\overline{)37} \\ 36 \\ \hline 1 \end{array}$$
   ×　改正：
$$\begin{array}{r} 7 \\ 9\overline{)70} \\ 63 \\ \hline 7 \end{array}$$

3. 4……3　4……3　8……3
$$\begin{array}{r} 4 \\ 5\overline{)23} \\ 20 \\ \hline 3 \end{array}\quad\begin{array}{r} 4 \\ 4\overline{)19} \\ 16 \\ \hline 3 \end{array}\quad\begin{array}{r} 8 \\ 5\overline{)43} \\ 40 \\ \hline 3 \end{array}$$
   5……3　4……3　4……2
$$\begin{array}{r} 5 \\ 9\overline{)48} \\ 45 \\ \hline 3 \end{array}\quad\begin{array}{r} 4 \\ 8\overline{)35} \\ 32 \\ \hline 3 \end{array}\quad\begin{array}{r} 4 \\ 7\overline{)30} \\ 28 \\ \hline 2 \end{array}$$

4. 7　38　9　4　24　56

5. 72　49　7　63

6. $18+42\div6$　　$60-40\div5$
   $=18+7$　　$=60-8$
   $=25$　　$=52$
   $20+3\times5$　　$63-63\div7$
   $=20+15$　　$=63-9$
   $=35$　　$=54$
   $68-72\div8$　　$81\div9+2$
   $=68-9$　　$=9+2$
   $=59$　　$=11$

7. 10　9　5　4　11　2

8. 13　24　$(13-7)\times4=24$
   6　4　$36\div(15-6)=4$

9. 11　6

10. $(14+7)\div3$
    $=21\div3$
    $=7$
    $4\times(16-9)$
    $=4\times7$
    $=28$
    $63\div(46-37)$
    $=63\div9$
    $=7$

11. （1）不正确 $105-(17+23)=65$
    （2）不正确 $(3+4)\times5=35$

期末总复习

题型突破卷4　计算题（二）

1. 500　700　400　400

2. （1）5　4　（答案不唯一）
   （2）0　9　（答案不唯一）

3. $\begin{array}{r} 206 \\ +5_{1}9_{1}8 \\ \hline 804 \end{array}$　$\begin{array}{r} \dot{4}\dot{2}0 \\ -265 \\ \hline 155 \end{array}$

4. $\begin{array}{r} 1\boxed{1}6 \\ +\boxed{6}\boxed{2}\boxed{6} \\ \hline 742 \end{array}$　$\begin{array}{r} 9\boxed{2}3 \\ -\boxed{5}\boxed{5}6 \\ \hline 36\boxed{7} \end{array}$　$\begin{array}{r} 3\boxed{5}6 \\ -\boxed{1}\boxed{8}\boxed{8} \\ \hline 168 \end{array}$

5. 570　190　400　80　700　340

6. 488　134　297　645

7. =　<　>　>

8. 901　$\begin{array}{r} 596 \\ +3_{1}0_{1}5 \\ \hline 901 \end{array}$　验算：$\begin{array}{r} \dot{9}\dot{0}1 \\ -305 \\ \hline 596 \end{array}$

   289　$\begin{array}{r} \dot{9}\dot{6}8 \\ -679 \\ \hline 289 \end{array}$　验算：$\begin{array}{r} 289 \\ +6_{1}7_{1}9 \\ \hline 968 \end{array}$

   266　$\begin{array}{r} \dot{5}\dot{4}1 \\ -275 \\ \hline 266 \end{array}$

   1357　$\begin{array}{r} 257 \\ +432 \\ \hline 689 \end{array}$　$\begin{array}{r} 689 \\ +6_{1}6_{1}8 \\ \hline 1357 \end{array}$

   354　$\begin{array}{r} 867 \\ -164 \\ \hline 703 \end{array}$　$\begin{array}{r} \dot{7}\dot{0}3 \\ -349 \\ \hline 354 \end{array}$

   164　$\begin{array}{r} 379 \\ +2_{1}2_{1}1 \\ \hline 600 \end{array}$　$\begin{array}{r} \dot{6}\dot{0}0 \\ -436 \\ \hline 164 \end{array}$

9. $67+138=205$　$62+76=138$
   $138-62=76$　$205-67=138$（答案不唯一）

10. 5　1　2

荣德基好卷

关注微信公众号“教辅资料站”获取更多学习资料

期末总复习

题型突破卷5　操作探索题

1. √　×　×　×　√　√

2. ①②③⑥⑦

3. ③

4. 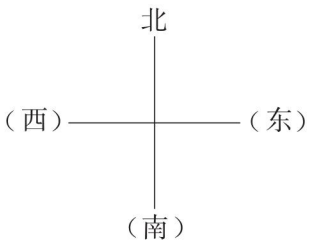

5. （1）东　西　北　南

   （2）南　北　东

6. 东　南　西

7. （1）3　4　12　1

   （2）12　8

   （3）12 －（3 ＋4）＝5（人）

   答：肥胖和超重的总人数比正常体重的人数少5人。

期末总复习

题型突破卷6　应用题（一）

1. 45 ÷8 ＝5（个）……5（个）

   5 ＋1 ＝6（个）

   答：至少需6个盒子才能装完。

2. 26 ÷6 ＝4（束）……2（枝）

   10 ÷2 ＝5（束）

   20 ÷3 ＝6（束）……2（枝）

   4 ＜5 ＜6

   答：这些花最多可以扎成4束这样的花束。

3. 18 ÷5 ＝3（组）……3（个）

   答：第18个图形是。

   3 ×2 ＋2 ＝8（个）

   答：前18个图形中△有8个。

4. 24 ＋3 ×7 ＝45（元）

   答：一共需要45元。

5. （60 －25）÷5 ＝7（棵）

   答：每个小组要植7棵树。

6. 149 ＋169 ＝318（元）

   109 ＋169 ＝278（元）

   278 ＜300 ＜318

   300 －278 ＝22（元）

   答：应该买②号和③号衣服，还剩下22元。

7. 245 ＋267 ＋470 ＝982（米）

   145 ＋326 ＋188 ＝659（米）

   319 ＋445 ＋228 ＝992（米）

   659 ＜982 ＜992

   答：走B路线最近。

8. （1）903 －326 ＝577（本）

   答：故事书有577本。

   （2）568 ＋380 ＝948（本）

   答：漫画书有948本。

期末总复习

题型突破卷7　应用题（二）

1. （1）693 －215 －193 ＝285（米）

   或693 －（215 ＋193）＝285（米）

   （2）60 ＋13 －28 ＝45（箱）

2. 132 －59 ＋25 ＝98（辆）

   答：*C*品牌汽车有98辆。

3. 12 ÷2 ＝6（条）　12 ＋6 ＝18（条）

   18 ＋18 ＝36（条）

   答：张叔叔一共钓了36条。

4. 24 ＋18 ＋24 ＝66（千克）

   答：爸爸的体重是66千克。

5. （25 ＋20）÷5 ＝9（千克）

   答：每个班分到9千克。

6. 电影院9：15开始进场。

7. 程琳是第一名，王晨是第二名，李响是第三名。

来德基好卷

关注微信公众号“教辅资料站”获取更多学习资料