《好卷》=《大卷》+《小卷》：不是所有的试卷都叫“好卷”，期末提分才是硬道理

同步测评用

小卷 周测培优卷

除法的计算能力检测卷 …… 01
除法的应用能力检测卷 …… 03
方向与位置能力检测卷 …… 05
大数的读、写、意义的理解能力检测卷 … 07
大数的比较和估计能力检测卷 …… 09
测量能力检测卷 …… 11
加与减的计算能力检测卷 …… 13
加与减的应用能力检测卷 …… 15
认识图形能力检测卷 …… 17
时、分、秒的理解能力检测卷 …… 19
调查与记录能力检测卷 …… 21

大卷 单元检测卷

第一单元 跟踪检测卷 …… 1
第二单元 跟踪检测卷 …… 3
第三单元 跟踪检测卷 …… 5
第四单元 跟踪检测卷 …… 7
期中 检测卷 …… 9
第五单元 跟踪检测卷 …… 11
第六单元 跟踪检测卷 …… 13
第七单元 跟踪检测卷 …… 15
第八单元 跟踪检测卷 …… 17

期末冲刺用

小卷 专项能力提升卷

计算的挑战 …… 23
单位的转化 …… 25
统计与概率 …… 27
熟练理解万以内的数 …… 29
简单的空间想象能力 …… 31
有余数的除法应用题强化练习 …… 33
加与减的应用题综合练习 …… 35

大卷 模块过关卷

计算与时间 …… 19
几何、测量、调查 …… 21
实际应用 …… 23
常考易错题综合 …… 25

大卷 仿真模拟卷

期末测试卷 …… 27
无锡市名校期末测试卷 …… 29
浙江省名校期末测试卷 …… 31
黄冈市名校期末测试卷 …… 33

大卷答案 见大卷35~38页　小卷答案 见小卷37~46页



荣德基好卷
微信公众号
教辅资料站
关注微信公众号“教辅资料站”获取更多学习资料

荣德基 好卷

2年级 数学 下 BS版

第一单元 跟踪检测卷

除法

时间：60分钟　满分：100分

题号	一	二	三	四	五	总分
得分						

姓名　学号　班级　学校　密　封　线

温馨提示：请不要在密封线内答题哦！

一、填一填。（第1题6分，其余每空1分，共21分）

1. 摆一摆，填一填。

（1）19根火柴，每6根摆成1个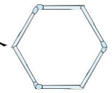，可以摆（　　）个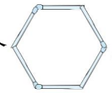，还剩（　　）根。

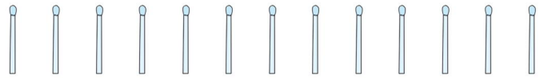

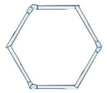

□÷□=□（　　）……□（　　）

（2）26颗珠子，每7颗摆成1个，可以摆（　　）个，还剩（　　）颗。

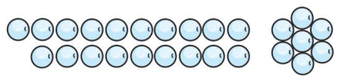

□÷□=□（　　）……□（　　）

2. 在有余数的除法里，如果余数是4，那么除数最小是（　　）；如果除数是6，那么余数最大是（　　）。

3. 有42块巧克力，至少拿出（　　）块，剩下的才能平均分给5个小朋友，每个小朋友可分到（　　）块。

4. 每支铅笔6角，5元钱最多能买（　　）支铅笔。

5. 如图，34米长的绳子，每5米剪1段，可以剪成（　　）段，还剩（　　）米。



6. 在算式△÷□=8……7中，□最小是（　　），这时△是（　　）。

7. （　　）里最大能填几？

（　　）×7<36　　8×（　　）<75　　42>（　　）×6

54>（　　）×9　　4×（　　）<31　　39>（　　）×5

二、辨一辨。（对的在括号里画“√”，错的画“×”。每题1分，共5分）

1. 57÷8=6……9。（　　）
2. 4×7+6=34。（　　）
3. 43÷8和66÷9的余数相同。（　　）
4. 除数是7，余数一定是6。（　　）
5. 被除数一定比除数大。（　　）

三、选一选。（把正确答案的序号填在括号里。每题2分，共10分）

1. 下面的算式中，余数为4的是（　　）。

①26÷3　　②39÷4　　③53÷7

2. ○÷7=6……△中，余数（　　）。

①不可能是8　　②必须小于6　　③最大是6

3. □÷6=5……3，□里应填（　　）。

①23　　②30　　③33

4. 用22个小正方体摆，能摆几组？还剩几个小正方体？（　　）

①7，1　　②2，5　　③5，2

5. 商店准备把篮子中的24个松花蛋装袋后销售，销售部经理设计了以下几种装袋方案。（　　）方案装袋后有剩余。



①每3个装一袋　　②每4个装一袋　　③每5个装一袋

四、计算挑战。（共30分）

1. 直接写出下面各题的商和余数。（每题2分，共12分）

18÷5=□……□　　20÷3=□……□　　43÷5=□……□

59÷8=□……□　　11÷2=□……□　　50÷7=□……□

2. 用竖式计算。（每题3分，共18分）

27÷6=　　60÷8=　　83÷9=

47÷5=　　29÷9=　　24÷7=

荣德基好卷　微信公众号教辅资料站　关注微信公众号“教辅资料站”获取更多学习资料

五、走进生活，解决问题。（共 34 分）

1. 挂灯笼。

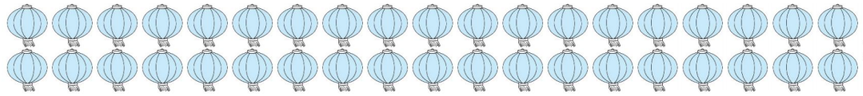

38 个

如果每 6 个灯笼穿一串，可以穿几串？（5 分）

2. 某学校准备在六一期间举行飞机模型比赛，二（1）班每 6 名同学合做一架飞机模型。（5 分）



3. 将 39 个鸡蛋全部放进蛋托里，至少需要多少个蛋托？（4 分）


39个鸡蛋

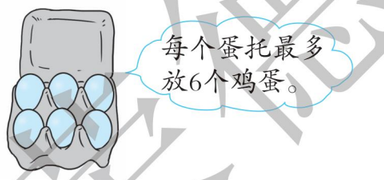

4. 买东西。

（1）图中的钱如果都买玩具飞机，最多能买几架？（3 分）






7元/架


9元/辆

（2）图中的钱如果都买玩具汽车，最多能买几辆？（3 分）

（3）请你再提出一个数学问题，并尝试解答。（4 分）

5. 二年级有 37 人一起去郊游。


小汽车限乘 4 人


面包车限乘 9 人

（1）如果都租小汽车，最多可以坐满几辆车？会有剩余的人吗？（4 分）

（2）如果都租面包车，至少要租几辆？（3 分）

（3）还可以怎样安排租车呢？用算式说说你的想法。（3 分）

关注微信公众号“教辅资料站”获取更多学习资料

自己说说

老师点评

家长点评

密 封 线

荣德基 好卷
2年级 数学 下 BS版

第二单元 跟踪检测卷

方向与位置

时间：60分钟　满分：100分

题号	一	二	三	四	五	总分
得分						

一、填一填。（第3题3分，其余每空1分，共15分）

1. 根据生活常识填一填。

(1) 

指南针深色针指向北面，浅色针指向（　　）面。

(2) 

在北半球，数的年轮比较疏的一侧向着南面，比较密的一侧向着（　　）面。

(3) 

晚上面对北斗星，左面是西面，右面是（　　）面。

2. 与东北相对的方向是（　　），与西北相对的方向是（　　）。

3. 太阳每天从（　　）方升起，从（　　）方落下。早晨，当你背对太阳时，面向的是（　　）方，这时你的后面是（　　）方，左面是（　　）方，右面是（　　）方。

4. “一江春水向东流”，这是说长江之水是由（　　）方流向（　　）方的。

5. 把手表平放在桌子上，“12”指向北方，这时“6”指向（　　）方，“3”指向（　　）方。

6. 小红在小丽的东面，小丽在小红的（　　）面；小明在小芳的西南方向，小芳在小明的（　　）方向。

7. 学校在聪聪家的东北方向，聪聪放学回家应该向（　　）方向走。

二、辨一辨。（对的在括号里画“√”，错的画“×”。每题1分，共5分）

1. 红红和明明背靠背，红红面朝北，那么明明面朝南。（　　）

2. 冬天来了，燕子从南方飞向北方。（　　）

3. 因为聪聪家的窗户朝着南面，所以终年不见阳光。（　　）

4. 山坡上积雪融化得快的一面朝着南面，融化得慢的一面朝着北面。（　　）

5. 早晨，如果你面向北方，那么在你的右边太阳正冉冉升起。（　　）

三、选一选。（把正确答案的序号填在括号里。每题2分，共10分）

1. 小红家在学校的南边，她上学应该向（　　）面走。
①南　②西　③北

2. 晴朗的夜晚，我们可以利用（　　）来辨别方向。
①天王星　②月亮　③北斗星

3. 太阳下菲菲的影子在她的东面，太阳在（　　）面。
①东　②西　③南

4. 东东向西走了10米，再向右转，现在他面向（　　）方。
①东　②北　③南

5. 刮风时，学校的国旗向西北方向飘，刮的是（　　）风。
①东北　②西北　③东南

四、动手操作，开发大脑。（共30分）

1. 画一画，填一填。

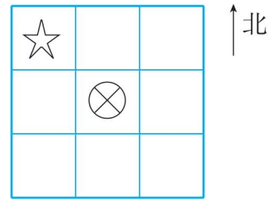

(1) 在⊗的东南方向画一个△，在⊗的西南方向画一个◯，在⊗的东北方向画一个□。（3分）

(2) ☆在⊗的（　　）方向，⊗在☆的（　　）方向。（3分）

(3) □的西南方向有（　　）和（　　）。（2分）

2. 算一算，标一标。（11分）

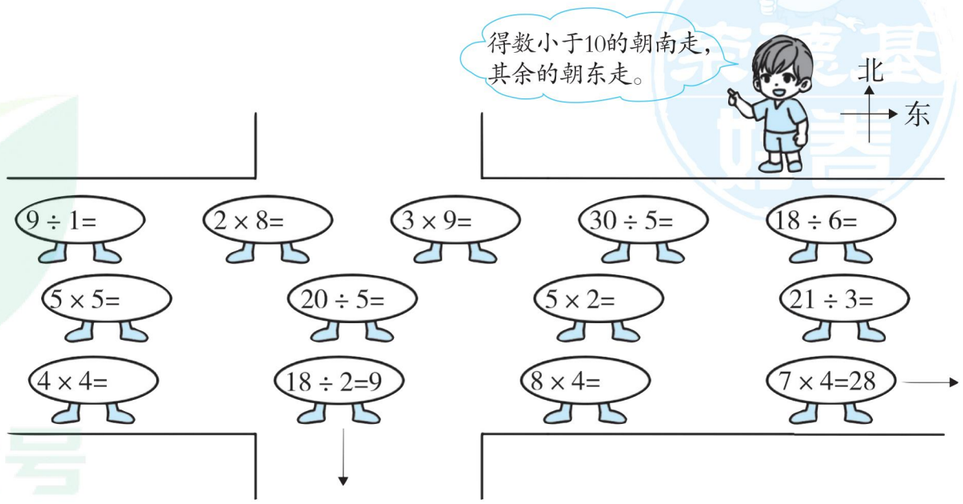

姓名　学号　班级　学校

密　封　线

豆点提示：请不要在密封线内答题哦！

荣德基好卷 微信公众号 教辅资料站
关注微信公众号“教辅资料站”获取更多学习资料

3. 耐心算一算，仔细标一标。(11 分)

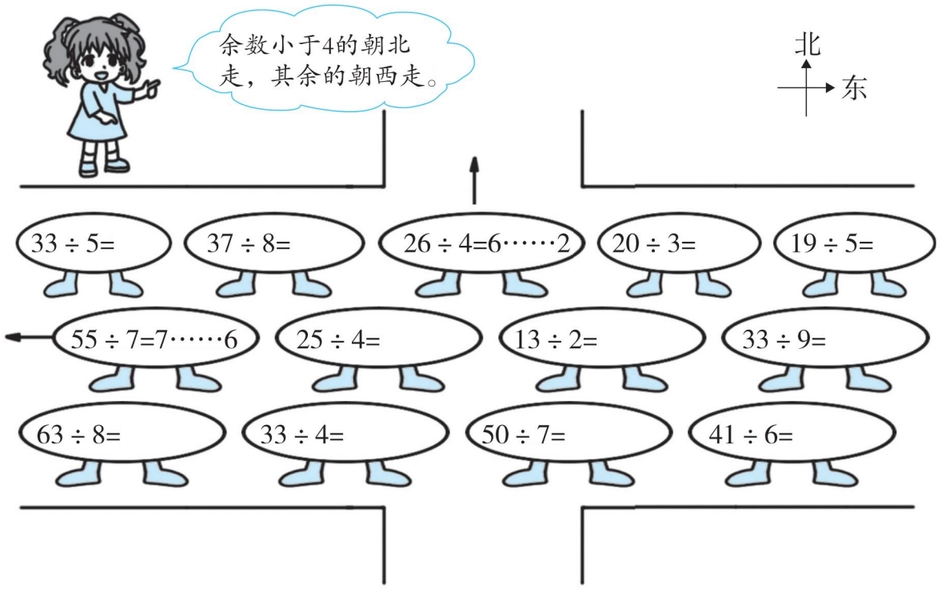

五、走进方向，解决问题。(共 40 分)

1. 光头强先向（　　）方向走，给玲玲送礼物；再向（　　）方向走，给波波送礼物；然后向（　　）方向走，给晶晶送礼物；最后向（　　）方向走，给帅帅送礼物。(6 分)

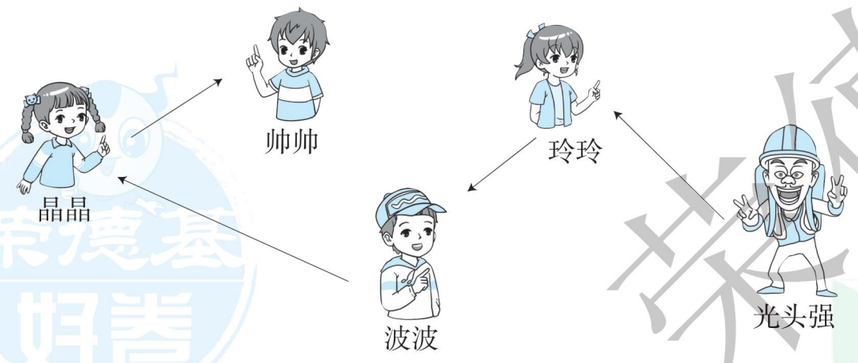

2. 森林里有一只小松鼠受伤了急需救助，快帮小玲找到它吧！

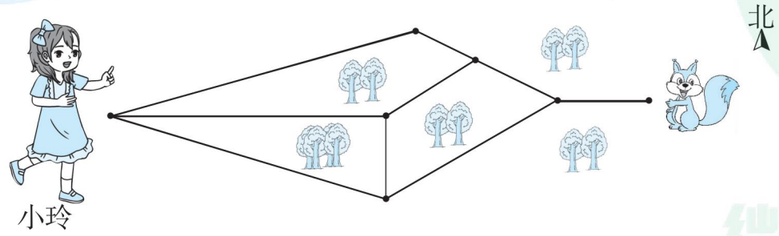

(1) 路线 1：小玲先向（　　）走，再向（　　）走，最后向（　　）走，就可以找到小松鼠。(6 分)

(2) 路线 2：＿＿＿＿＿＿＿＿＿＿＿＿＿＿＿＿＿＿＿＿。(3 分)

3. 城市一角。

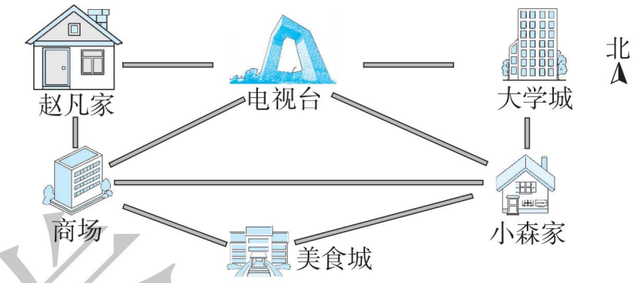

(1) 赵凡家在电视台的（　　）面，电视台在赵凡家的(　　)面。(2 分)

(2) 美食城在小森家的（　　）方向，大学城在小森家的(　　)面。(4 分)

(3) 商场的东南方向有（　　），美食城的东北方向有（　　）。(3 分)

4.

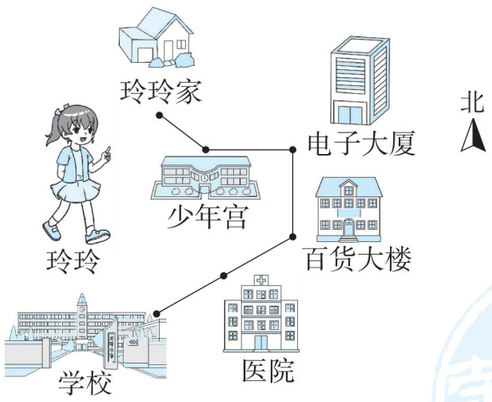

(1) 玲玲上学的路线是：(8 分)

家 —东南→ 少年宫 —□→ 电子大厦 —□→ 百货大楼 —□→ 医院 —□→ 学校

(2) 玲玲放学的路线是：(8 分)

学校 —东北→ 医院 —□→ 百货大楼 —□→ 电子大厦 —□→ 少年宫 —□→ 家

荣德基好卷
自己说说
老师点评
家长点评
密
封
线
微信公众号 教辅资料站
关注微信公众号“教辅资料站”获取更多学习资料

荣德基 好卷

2年级 数学 下 BS版

第三单元 跟踪检测卷

生活中的大数

时间：60分钟　满分：100分

题号	一	二	三	四	五	六	总分
得分							

姓名 学号 班级 学校

密 封 线

豆点提示：请不要在密封线内答题哦！

一、看图写数和读数。（每题2分，共8分）

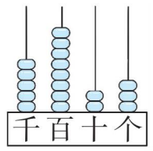

写作：（　　）

读作：（　　）

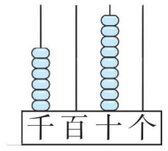

写作：（　　）

读作：（　　）

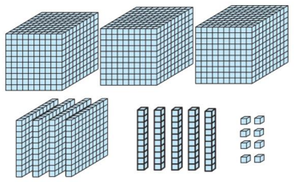

写作：（　　）

读作：（　　）

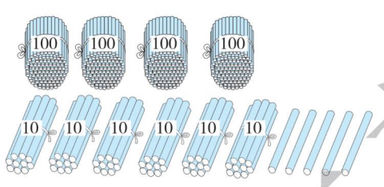

写作：（　　）

读作：（　　）

二、填一填。（每空1分，共30分）

1. 10个十是（　　），10个（　　）是一千，10个一千是（　　）。
2. 9999加上1是（　　），10000里面有（　　）个100，10000里面有（　　）个1000。
3. 7690是由（　　）个千、（　　）个百、（　　）个十组成的。
4. 在数位顺序表中，从右开始数第二位是（　　）位，千位是第（　　）位，第五位是（　　）位，百位是第（　　）位。
5. 千位的左边是（　　）位，右边是（　　）位。
6. 9930是（　　）位数，它是由（　　）个十组成的，再加上（　　）个十就是最小的五位数。
7. 800的前一个数是（　　），后一个数是（　　）。
8. 最小的五位数是（　　），最大的四位数是（　　），它们相差（　　）。
9. 找规律，填一填。

（1）468，469，（　　），（　　），472，473。

（2）4350，4360，（　　），4380，（　　），（　　）。

（3）6785，6885，（　　），（　　），7185。

三、辨一辨。（对的在括号里画“√”，错的画“×”。每题1分，共5分）

1. 一个数的末尾不管有几个零，都只读一个“零”。（　　）
2. 一个数的最高位是万位，这个数是五位数。（　　）
3. 一个数由5个千和5个一组成，这个数是505。（　　）
4. 6666中的每个6表示的意义都一样。（　　）
5. 由1，0，0，8组成的只读一个零的四位数只有1008。（　　）

四、选一选。（把正确答案的序号填在括号里。每题1分，共5分）

1. 下面的数中，只读一个“零”的是（　　）。

① 300　② 3006　③ 3600

2. 下面的数中，最大的是（　　）。

① 9830　② 9803　③ 9380

3. 比5000小得多的数是（　　）。

① 1090　② 4990　③ 5010

4. 小红和小强参加了“每周跑步一万米”的健身活动。周三时，小红一共跑了4010米，小强一共跑了5200米，（　　）剩下的多。

①小红　②小强　③无法确定

5. 一个密码箱的密码是下面三个数中的一个，这个密码大于5000，小于6000，接近5600，该密码是（　　）。

① 5002　② 5518　③ 5996

荣德基好卷 微信公众号 教辅资料站
关注微信公众号“教辅资料站”获取更多学习资料

五、做一做。（共 24 分）

1. 在○里填上“＞”或“＜”。（每题 1 分，共 6 分）

2008 ○ 2800　　4080 ○ 4800　　7120 ○ 7104

950 ○ 5590　　8647 ○ 8467　　6730 ○ 6370

2. 在□里填上适当的数字。（每题 1 分，共 6 分）

37 □ ＜371　　□65 ＞766　　485 ＜4 □5

825 ＞8 □9　　999 □ ＞9998　　134 □ ＜1341

3. 哪件电器最便宜？标一标，比一比。



洗衣机 2560 元　空调 1999 元　电视机 2686 元　冰箱 2403 元　电饭锅 789 元

（1）在数线上标出上面电器价格的大致位置。（5 分）

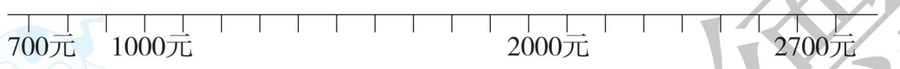

（2）按从高到低的顺序排列电器价格。（5 分）

（　　）＞（　　）＞（　　）＞（　　）＞（　　）

（3）（　　）最贵，（　　）最便宜。（2 分）

六、按要求解决问题。（共 28 分）

1. 读一读，写出横线上的数。（每题 2 分，共 6 分）



波音 737 巡航速度约为每时八百二十千米。

（　　）

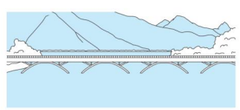

这座大桥长一千零五米。

（　　）



长江长约六千三百九十七千米。

（　　）

2. 比一比，估一估。（每题 2 分，共 4 分）

（1）



（2）



3. 标出图书馆藏书本数的大致位置。（3 分）





4. 根据 2324 ＝2000 ＋300 ＋20 ＋4 填一填。（每题 2 分，共 6 分）

（1）

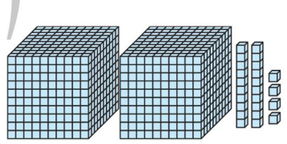

还缺（　　）排。

（2）

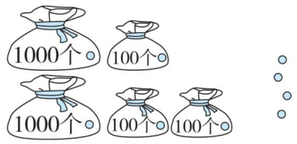

还缺（　　）袋。

（3）

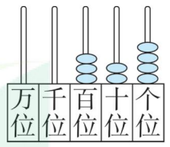

千位缺（　　）颗。

5. 想一想，填一填。（每题 3 分，共 9 分）

998　356　856　1001　499　865　358

（1）哪些数在 300 和 500 之间？_____

（2）哪些数在 800 和 1000 之间？_____

（3）最接近 1000 的数是：_____

荣德基好卷
微信公众号
教辅资料站
关注微信公众号“教辅资料站”获取更多学习资料
自己说说
老师点评
家长点评
密
封
线

荣德基 好卷

2年级 数学 下 BS版

第四单元 跟踪检测卷

测量

时间：60分钟　满分：100分

题号	一	二	三	四	五	六	七	八	总分
得分									

姓名　学号　班级　学校

密　封　线

一、填一填。（第8题4分，其余每空1分，共31分）

1. 测量1分硬币的厚度用（　　）作单位，测量北京到上海的路程用（　　）作单位，用字母表示是（　　）。

2. 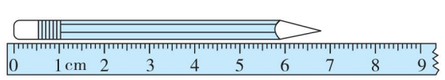

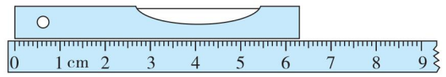

铅笔长（　　）厘米（　　）毫米。　　小刀长（　　）毫米。

3. 一本书厚2厘米，10本书摞在一起厚2（　　）。

4. 我们学校操场的跑道一圈长400米，两圈长（　　）米，离1千米还差（　　）米。

5. 在（　　）里填上合适的单位。


南京长江大桥长6772（　　）　
手指甲厚约1（　　）　
杯子高约2（　　）


轻轨每小时约行60（　　）　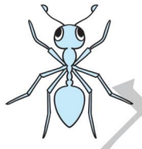
蚂蚁身长约11（　　）　
笔袋长约3（　　）

6. 在○里填上“＞”“＜”或“＝”。

8厘米○80毫米　　500米○5千米　　40厘米＋6分米○1米

900厘米○90米　　40厘米○3分米　　1米－8分米○30厘米

7.

5千米=(　　)米	80厘米=(　　)分米	700厘米=(　　)米
90分米=(　　)米	6000米=(　　)千米	40毫米=(　　)厘米

8. 把下列长度按从小到大的顺序排列。

（1）18毫米　1厘米　2米　3分米　＿＿＿＿＿＿

（2）200毫米　4米　21厘米　3分米　＿＿＿＿＿＿

二、辨一辨。（对的在括号里画“√”，错的画“×”。每题2分，共10分）

1. 长度单位之间的进率都是10。（　　）
2. 飞机每小时飞行800米。（　　）
3. 2千米的铁丝和2000米的绳子一样长。（　　）
4. 一张银行卡厚约1厘米。（　　）
5. 欢欢吃饭的筷子长约12分米。（　　）

三、选一选。（把正确答案的序号填在括号里。每题2分，共10分）

1. 出租车的计价器所显示的里程以（　　）为单位。

① 千米　　② 米　　③ 分米

2. 把3米长的绳子平均分成5段，每段长（　　）分米。

① 5　　② 60　　③ 6

3. 10张纸厚约1（　　）。

① 毫米　　② 分米　　③ 厘米

4. 给琪琪选书桌，选（　　）高合适。

① 3分米　　② 7分米　　③ 10米

5. 南京到杭州大约280（　　）。

① 分米　　② 米　　③ 千米

四、画一画，量一量，填一填。（共11分）

1. 我会测量物品的实际长度。（7分）

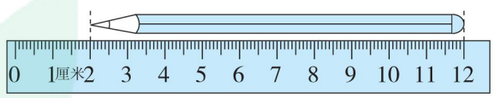

铅笔长(　　)厘米

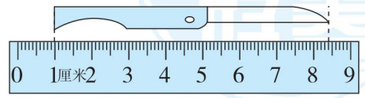

小刀长(　　)厘米(　　)毫米



要点提示：
请不要在密封线内答题哦！

荣德基 好卷

微信公众号 教辅资料站

关注微信公众号“教辅资料站”获取更多学习资料

2. 我会按要求画线。

（1）画一条长 36 毫米的线。（2 分）

（2）画一条比 1 分米短 4 厘米的线。（2 分）

五、下面是乌龟回家走过的三段路，量一量，填一填。（6 分）

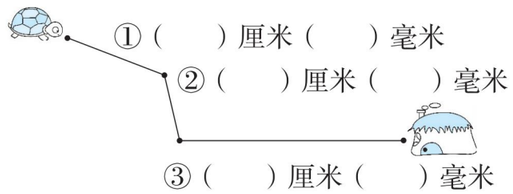

六、猜一猜，按要求完成下面各题。（共 6 分）



1. 悦悦家离科技馆有多远？（画“△”）。（2 分）
2. 军军家离科技馆有多远？（画“□”）。（2 分）
3. 军军家离悦悦家有多远？（画“√”）。（2 分）

900 米	4 千米	300 米

七、读一读，改一改。（把改后的单位填在括号里）（每空 2 分，共 10 分）

今天，我们要去风景区春游，我特别高兴。早上我从 2 分米（　　）长的床上爬起来。走进卫生间，拿起 1 米（　　）长的牙刷，挤出 7 厘米（　　）长的一段牙膏，飞快地刷完牙。吃过早饭，我和同学们一起坐上汽车。汽车以每时 60 米（　　）的速度开往风景区，行驶了 75 米（　　），我们终于到达了风景区。

八、走进生活，解决问题。（共 16 分）

1. 涵涵去公园。



（1）涵涵每小时行多少千米？（3 分）

（2）涵涵可能什么时候到公园？（3 分）

（3）如果涵涵在公园玩一个小时后沿原路返回，涵涵可能什么时候到家？（4 分）

2. 一段笔直的公路，每隔 2 千米立 1 块标志牌，从起点到终点一共立了 8 块标志牌（两端都立标志牌）。这段公路全长多少千米？（先画图，再解决问题）（6 分）

荣德基好卷
微信公众号
教辅资料站
关注微信公众号“教辅资料站”获取更多学习资料
自己说说
老师点评
家长点评
密
封
线

荣德基 好卷

2年级 数学 下 BS版

期中 检测卷

时间：60分钟　满分：100分

题号	一	二	三	四	五	六	总分
得分							

姓名 学号 班级 学校

密 封 线

豆点提示：请不要在密封线内答题哦！

一、填一填。（每空1分，共35分）

1. 在括号里填上适当的单位。


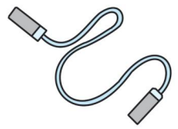


门高约2（　　）。　跳绳长约20（　　）。　汽车每时行驶76（　　）。

2. 填一填。

3000米＝（　　）千米　80毫米＝（　　）厘米　200厘米＝（　　）米

5米＝（　　）分米　　7分米＝（　　）毫米　9千米＝（　　）米

3. 看一看，写一写，读一读。

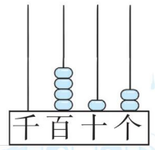

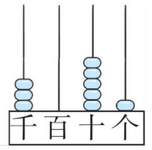

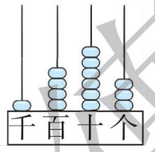

写作：（　　）　写作：（　　）　写作：（　　）

读作：（　　）　读作：（　　）　读作：（　　）

4. 在○里填上“＞”“＜”或“＝”。

2013 ○ 1999　　483 ○ 438　　30÷5 ○ 35　　56÷7 ○ 8

869 ○ 1001　　3920 ○ 3902　　72÷8 ○ 8　　25÷5 ○ 30

5. 找规律，填一填。

（1）988，989，（　　），991，（　　），（　　）。

（2）7790，7890，（　　），（　　），8190。

6. 学校买了50个篮球，平均分给6个班，每个班分到（　　）个，还剩（　　）个。

7. 学校运动会上，50米赛跑有32人报名。如果每组最多分5人，至少需要分（　　）组。

8. 看一看，填一填。



书店在广场的（　　）面，

小乐家在学校的（　　）面，

果果家在学校的（　　）方向，

学校的东北方向是（　　）。

二、辨一辨。（对的在括号里画“√”，错的画“×”。每题1分，共5分）

1. 与南相对的方向是北，与西南相对的方向是西北。（　　）
2. 在数位顺序表上，从右起，第一位是个位，第四位是万位。（　　）
3. 5176里有5个千、1个百、7个十和6个一。（　　）
4. 6425＞6□35，□里最大可以填4。（　　）
5. ☆÷8＝6……□，□里的数最大是7。（　　）

三、选一选。（把正确答案的序号填在括号里。每题2分，共10分）

1. 右图中铅笔长（　　）。

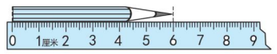

① 5厘米　　② 6厘米　　③ 6毫米

2. 下面各数中，最接近3000的数是（　　）。

① 2001　　② 2900　　③ 3010

3. 右图①号杯里大约有100粒豆子，②号杯里大约有（　　）粒豆子。

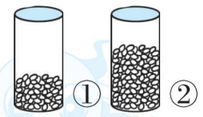

① 200　　② 300　　③ 400

4. □×8＜60，□里最大能填（　　）。

① 6　　② 7　　③ 8

5. 五（1）班同学去医务室检查视力，每次进去6人。贝贝排在第25个，第（　　）次才能进去。

① 4　　② 5　　③ 6

四、计算挑战。（共12分）

1. 看谁算得又对又快。（每题0.5分，共6分）

12÷6＝	54÷9＝	24÷6＝	64÷8＝
35÷7＝	72÷8＝	32÷4＝	9×2＝
40÷8＝	15÷5＝	16÷4＝	42÷7＝

荣德基好卷 微信公众号 教辅资料站
关注微信公众号“教辅资料站”获取更多学习资料

2. 用竖式计算。（每题 2 分，共 6 分）

36 ÷ 6 =　　54 ÷ 8 =　　25 ÷ 7 =

五、我会按要求解决。（共 12 分）

1. 每个数中的“3”各表示多少？用线连一连。（4 分）

5023　　314　　9836　　3078

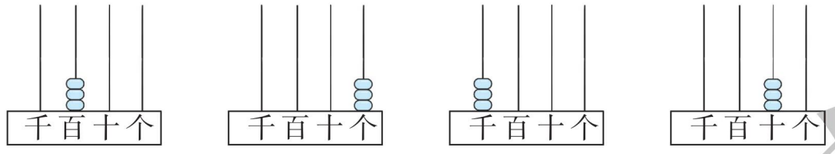

2. 淘气家离学校 920 米，笑笑家离学校和淘气家差不多，小洁家离学校比淘气家远多了。

（1）笑笑家离学校有多远？画“△”。（2 分）

856 米	913 米	1200 米

（2）小洁家离学校有多远？画“○”。（2 分）

798 米	930 米	1600 米

3. 收玉米。

	小鹿	小猴	小熊	狐狸
数量/根	867	1031	1960	1400

按照从小到大的顺序排列四个小动物收的玉米数量。（4 分）

（　　）<（　　）<（　　）<（　　）

六、走进生活，解决问题。（共 26 分）

1. 折一颗五角星需要 8 厘米长的彩带。一捆彩带长 7 分米 2 厘米，能折几颗五角星？（4 分）

2. 33 张卡片，平均分给 6 个小朋友。每人分到几张？还剩几张？（4 分）

3. （1）笑笑有 28 元，可以买到几个文具盒？（4 分）

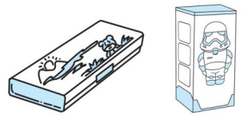

（2）乐乐有 40 元，最多可以买几个玩具白兵？（5 分）

4. 妈妈买来 18 枝花，如果每个花瓶插 5 枝花，可以插满几个花瓶？还剩几枝？（4 分）



5. 旅行社 45 人乘车去机场，至少需要几辆车？（5 分）



自己说说
老师点评
家长点评
密
封
线
关注微信公众号“教辅资料站”获取更多学习资料

荣德基 好卷

参考答案及点拨

2年级 数学 下 BS版（大卷）

第一单元跟踪检测卷

除法

一、1. （1）3　1　19÷6=3（个）……1（根）
（2）3　5　26÷7=3（个）……5（颗）
2. 5　5　【点拨】余数都比除数小。
3. 2　8　4. 8　5. 6　4
6. 8　71　【点拨】除数比余数大，余数是7，除数最小是8，求被除数，用“商×除数+余数”计算。
7. 5　9　6　5　7　7

二、1. ×　2. √　3. √　4. ×　5. ×

三、1. ③　2. ②　3. ③　4. ③　5. ③

四、1. 3，3　6，2　8，3　7，3　5，1　7，1

2. 27÷6=4……3　　60÷8=7……4

$$\begin{array}{r} 4 \\ 6\overline{)27} \\ \underline{24} \\ 3 \end{array}$$

$$\begin{array}{r} 7 \\ 8\overline{)60} \\ \underline{56} \\ 4 \end{array}$$

83÷9=9……2　　47÷5=9……2

$$\begin{array}{r} 9 \\ 9\overline{)83} \\ \underline{81} \\ 2 \end{array}$$

$$\begin{array}{r} 9 \\ 5\overline{)47} \\ \underline{45} \\ 2 \end{array}$$

29÷9=3……2　　24÷7=3……3

$$\begin{array}{r} 3 \\ 9\overline{)29} \\ \underline{27} \\ 2 \end{array}$$

$$\begin{array}{r} 3 \\ 7\overline{)24} \\ \underline{21} \\ 3 \end{array}$$

五、1. 38÷6=6（串）……2（个）　答：可以穿6串。
2. 47÷6=7（架）……5（人）
答：最多可以做7架飞机模型。
3. 39÷6=6（个）……3（个）　6+1=7（个）
答：至少需要7个蛋托。
4. （1）50元+10元=60元
60÷7=8（架）……4（元）
答：最多能买8架。
（2）50元+10元=60元
60÷9=6（辆）……6（元）
答：最多能买6辆。
（3）用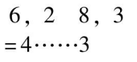买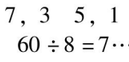，最多能买几辆？
50÷9=5（辆）……5（元）
答：最多能买5辆。（答案不唯一）
5. （1）37÷4=9（辆）……1（人）
答：最多可以坐满9辆车，会有剩余的人。
（2）37÷9=4（辆）……1（人）
4+1=5（辆）　答：至少要租5辆。
（3）9×1=9（人）　4×7=28（人）
9+28=37（人）
答：可以租1辆面包车和7辆小汽车。
【点拨】第（3）问答案不唯一。

第二单元跟踪检测卷

方向与位置

一、1. （1）南　（2）北　（3）东
2. 西南　东南　3. 东　西　西　东　南　北
4. 西　东　5. 南　东　6. 西　东北　7. 西　南

二、1. √　2. ×　3. ×　4. √　5. √

三、1. ③　2. ③　3. ②　4. ②　5. ③

四、1. （1）

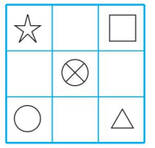

（2）西北　东南　（3）⊗　○

2.

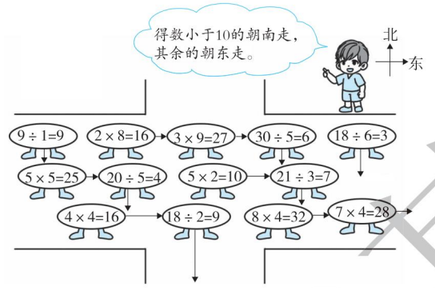

3.

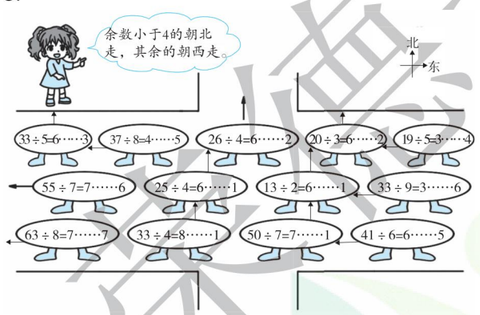

五、1. 西北　西南　西北　东北
【点拨】要找准观察点，观察点不同，方向就可能不同。
2. （1）东北　东南　东（前两个空答案不唯一）
（2）小玲先向东南走，再向东北走，最后向东走，就可以找到小松鼠（答案不唯一）
3. （1）西　东　（2）西南　北
（3）美食城　小森家、大学城
4. （1）家 →（东南）少年宫 →（东）电子大厦 →（南）百货大楼 →（西南）医院 →（西南）学校

（2）学校 →（东北）医院 →（东北）百货大楼 →（北）电子大厦 →（西）少年宫 →（西北）家

第三单元跟踪检测卷

生活中的大数

一、5823　五千八百二十三　6090　六千零九十
3458　三千四百五十八　465　四百六十五

二、1. 一百　一百　一万　2. 10000　100　10
3. 7　6　9　4. 十　四　万　三　5. 万　百
6. 四　993　7　7. 799　801
8. 10000　9999　1
9. （1）470　471　（2）4370　4390　4400
（3）6985　7085

三、1. ×　2. √　3. ×　4. ×　5. ×

四、1. ②　2. ①　3. ①　4. ①　5. ②

五、1. <　<　>　<　>　>
2. 0　8（或9）　9　0（或1）　9　0
3. （1）



（2）2686元　2560元　2403元　1999元　789元
（3）电视机　电饭锅

六、1. 820　1005　6397　2. （1）150　（2）15
3.

4. （1）3　（2）2　（3）2
5. （1）356，358，499　（2）856，865，998
（3）1001

第四单元跟踪检测卷

测量

一、1. 毫米　千米　km　2. 6　8　63
3. 分米　4. 800　200
5. 米　毫米　分米　千米　毫米　分米
6. =　【点拨】8厘米=80毫米。
<　【点拨】5千米=5000米。
=　【点拨】40厘米=4分米，4分米+6分米=10分米=1米。
<　【点拨】900厘米=9米。
>　【点拨】40厘米=4分米。
<　【点拨】1米-8分米=2分米=20厘米。
7. 5000　8　7　9　6　4
8. （1）1厘米<18毫米<3分米<2米
（2）200毫米<21厘米<3分米<4米

二、1. ×　2. ×　3. √　4. ×　5. ×

三、1. ①　2. ③　3. ①　4. ②　5. ③

四、1. 10　7　4　45　25　45　25
2. （1）

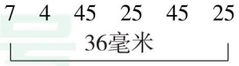

（2）



五、

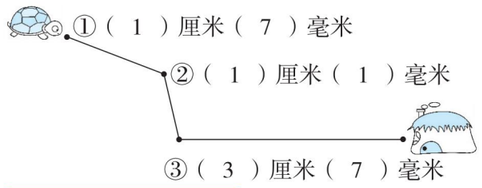

六、

900米	4千米	300米
□	△	√

七、米　分米　毫米　千米　千米

八、1. （1）12-8=4（千米）
答：涵涵每小时行4千米。
（2）8÷4=2（时）　2:30+2小时=4:30
答：涵涵可能4：30到公园。
（3）4:30+1小时=5:30　12÷4=3（时）
5：30+3小时=8：30
答：涵涵可能8：30到家。
2. 2千米



8-1=7　2×7=14（千米）
答：这段公路全长14千米。

期中检测卷

一、1. 米　分米　千米　2. 3　8　2　50　700　9000
3. 412　四百一十二　3051　三千零五十一
1463　一千四百六十三
4. >　>　<　=　<　>　>　<
5. （1）990　992　993　（2）7990　8090
6. 8　2　7. 7　8. 西　北　西北　邮局

二、1. ×　2. ×　3. √　4. ×　5. √

三、1. ②　2. ③　3. ①　4. ②　5. ②

四、1. 2　6　4　8　5　9　8　18　5　3　4　6
2. 36÷6=6　54÷8=6……6　25÷7=3……4

$$\begin{array}{r} 6 \\ 6\overline{)36} \\ \underline{36} \\ 0 \end{array}$$

$$\begin{array}{r} 6 \\ 8\overline{)54} \\ \underline{48} \\ 6 \end{array}$$

$$\begin{array}{r} 3 \\ 7\overline{)25} \\ \underline{21} \\ 4 \end{array}$$

五、1.

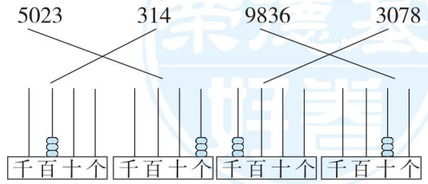

2. （1）

856米	913米	1200米
	△	

（2）

798米	930米	1600米
		○

3. 867根　1031根　1400根　1960根

六、1. 7分米2厘米=72厘米　72÷8=9（颗）
答：能折9颗五角星。
2. 33÷6=5（张）……3（张）
答：每人分到5张，还剩3张。

关注微信公众号“教辅资料站”获取更多学习资料

3. （1）28 ÷ 7 = 4（个）
答：可以买到 4 个文具盒。
（2）40 ÷ 9 = 4（个）……4（元）
答：最多可以买 4 个玩具白兵。
4. 18 ÷ 5 = 3（个）……3（枝）
答：可以插满 3 个花瓶，还剩 3 枝。
5. 45 ÷ 8 = 5(辆)……5(人)　5 + 1 = 6(辆)
答：至少需要 6 辆车。
【点拨】坐满 5 辆车后，还剩下 5 人，这 5 人也需要坐 1 辆车，所以需要 5 + 1 = 6(辆)车。

第五单元跟踪检测卷

加与减

一、
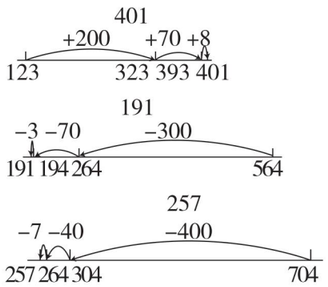

二、1. 前一　10　2. 1　3. 1009　989　4. 4
5. 367　588　196　6. 445　473
7. 522　638　8. 530
9. 高铁二等座　特快列车硬座　375
10. <　=　=　>

三、1. √　2. ×　3. √　4. √　5. ×

四、1. ③　2. ①　3. ③　4. ②　5. ①

五、1. 500　500　540　660　900　760　990　60

2. 514−158=356　　259+528=787

$$\begin{array}{r} 514 \\ -\ 158 \\ \hline 356 \end{array} \qquad \begin{array}{r} 259 \\ +\ 528 \\ \hline 787 \end{array}$$

★367+288=655

$$\begin{array}{r} 367 \\ +\ 288 \\ \hline 655 \end{array}$$
验算：
$$\begin{array}{r} 655 \\ -\ 367 \\ \hline 288 \end{array}$$

76+623=699　　701−293=408

$$\begin{array}{r} 76 \\ +\ 623 \\ \hline 699 \end{array} \qquad \begin{array}{r} 701 \\ -\ 293 \\ \hline 408 \end{array}$$

★800−299=501

$$\begin{array}{r} 800 \\ -\ 299 \\ \hline 501 \end{array}$$
验算：
$$\begin{array}{r} 501 \\ +\ 299 \\ \hline 800 \end{array}$$

六、1. 181 + 180 = 361（枚）
答：一副标准围棋共有 361 枚棋子。
2. 119 − 20 = 99（箱）　119 + 99 = 218（箱）
答：二、三月份一共进了 218 箱苹果。
【点拨】先要求出三月份进了多少箱苹果，别忘了还要加上二月份的。

3. （1）

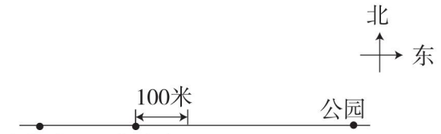

（2）420 + 185 = 605（米）
答：从公园到少年宫要走 605 米。
4. (1)256 + 47 = 303(下)　答:小强跳了 303 下。
（2）338 − 256 = 82（下）
答：小朵距最高纪录还差 82 下。
5. （1）把 332 看成 330，把 314 看成 310。
330 + 310 = 640（人）　600 < 640
答：字帖不够分。
（2）332 + 314 = 646（人）
答：三、四年级共有 646 人。
（3）646 − 600 = 46
答：字帖本数和学生人数相差 46。

第六单元跟踪检测卷

认识图形

一、1. 1　2
2.
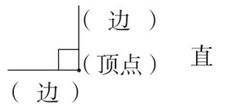

直　锐　钝
3. 3　1　2　4. 4　直　5. 6　1　5　0
6. 相等　相等　直　7. 9　3　8. 直
9. 没有　4　直

二、1. ×　2. ×　3. ×　4. √　5. ×

三、1. ②　2. ②　3. ③　4. ①　5. ②

四、1. （√）（　）（√）（　）（　）
2. （√）（○）（○）（○）（×）
3. （√）（　）（　）（√）（　）

五、1.


【点拨】注意要按顺序找，从第一个图形开始，依次往下找。

2.
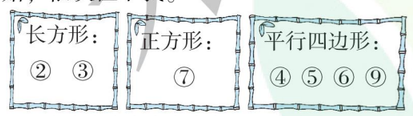

六、1. （1）
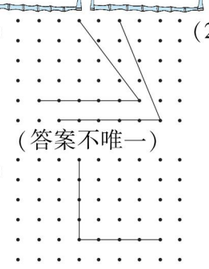
（答案不唯一）
（2）
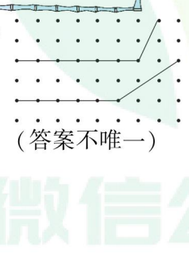
（答案不唯一）
（3）

2. （1）
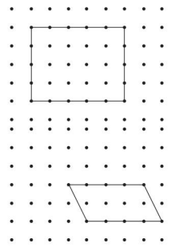
（2）
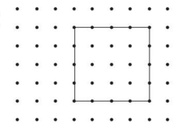
（3）

3. （分法不唯一）
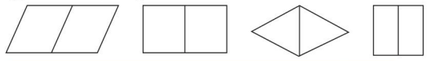

七、1.
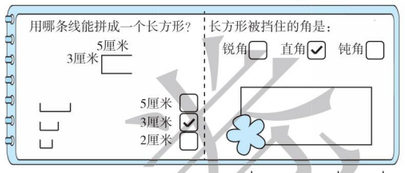

2.
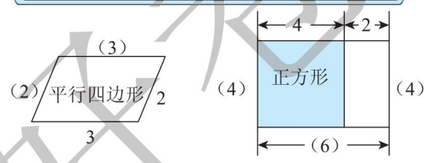

3. （1）5　4　（2）6　6

第七单元跟踪检测卷

时、分、秒

一、1. 秒　2. 60　1　1　1　60
3. 分　秒　时　分　秒　秒
4. （1）120　2　（2）1　5　（3）90
5. 1　20　75　1　30　85
6. <　<　=　<　>　>　7. 10

二、1. ×　2. ×　3. √　4. ×　5. ×

三、1. ③　2. ②　3. ②　4. ②
5. ②　【点拨】用时最少，速度最快。

四、1. 6 时 20 分　11 时 02 分　6 时 50 分
6：20　　11：02　　6：50
2 时 55 分
2：55

2.
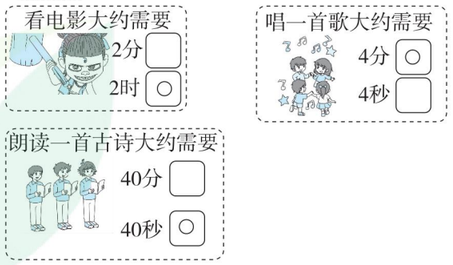

五、1. （1）30
（2）周六下午这段时间我在看书学习。（答案不唯一）
2. （1）1　25
（2）周六下午这段时间我在吃晚饭。（答案不唯一）

六、1. 5 时 50 分 − 5 时 20 分 = 30 分
答：芳芳提前 30 分到达电影院的。
2. 8 时 25 分 + 40 分 = 9 时 5 分



【点拨】计算时间时，时与时相加减，分与分相加减，当分与分相加满了 60 分，就要向前进 1 时。
3. 11 时 30 分 − 8 时 = 3 时 30 分
4 时 − 1 时 30 分 = 2 时 30 分
3 时 30 分 + 2 时 30 分 = 6 时
答：吴老师一天上班 6 时。
4. （1）16 < 17 < 21 < 24
答：徐明跑得最快，周强跑得最慢。
（2）24 − 16 = 8（秒）
答：最快的比最慢的少用 8 秒。
5. （1）12 时 − 9 时 = 3 时
5 时 30 分 − 1 时 = 4 时 30 分
答：游泳馆上午开放 3 时，下午开放 4 时 30 分。
（2）下午 1 时 = 13 时　13 时 − 12 时 = 1 时
答：中午休息 1 时。

第八单元跟踪检测卷

调查与记录

一、1. 6　14　18　10　2. 果果　乐乐
3. 乐乐　他得到的票数最多

二、1. （方法不唯一）


2.

水果				
个数	10	4	6	9

3. 6　3　4. 橘子　香蕉　5. 29

三、1. 长方形：正下　三角形：下
平行四边形：下　圆：下　正方形：下
2. 8　4　4　3　2
3. 长方形　正方形　三角形　平行四边形
4. 1　4

四、1. 80 ~ 89　40 ~ 49　2. 3　3　6　3. 8　34　26

五、1. 25　20　6　14　65　2. 轿车　卡车
3. 19　8　4. 轿车
5. （答案不唯一）如：轿车比出租车多多少辆？
25 − 14 = 11（辆）
答：轿车比出租车多 11 辆。

六、1.

圆圆	琪琪	浩浩	聪聪
15 票	7 票	12 票	8 票

2. 42　圆圆　15　琪琪　7　3. 圆圆
4. 不影响结果，因为即使 2 票全部投给浩浩，浩浩也只有 14 票。

七、1. 4　6　6　8　11　2. 二　四　五
3. 五　五　一　一　4. 40　35

荣德基 教辅资料站 微信公众号
关注微信公众号“教辅资料站”获取更多学习资料

5. 双休日的水果销售情况应该是一周中最好的。

八、1.

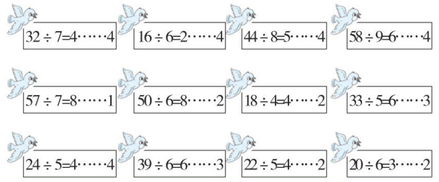

2.

余数	1	2	3	4
次数	一	正	丅	正

3. 4　1

期末复习冲刺卷

模块过关卷（一）　计算与时间

一、1. 八千六百一十一　四　千　百　1　1
2. 相同　个　3. 6
4. 971　【点拨】求这个数不能用减法，要用加法。　575
5. 喜羊羊　6. 290　480　250　220
7. =　<　>　<　8. 9；28　7；15　12；05

二、1. √　2. ×　3. ×　4. √　5. ×

三、1. ③　2. ③　3. ②　4. ③　5. ①

四、1. 55　8000　7　980　470　340　6　2000

2. 30÷7=4……2

```
      4
   7)3 0
     2 8
     ---
       2
```

80÷9=8……8

```
      8
   9)8 0
     7 2
     ---
       8
```

815−164=651

```
  8 1 5
− 1 6 4
-------
  6 5 1
```

365+478=843

```
  3 6 5
+ 4 7 8
-------
  8 4 3
```

*59+745=804

```
    5 9
+ 7 4 5
-------
  8 0 4
```

验算：

```
  8 0 4
−   5 9
-------
  7 4 5
```

*1000−198=802

```
  1 0 0 0
−   1 9 8
---------
    8 0 2
```

验算：

```
    8 0 2
+   1 9 8
---------
  1 0 0 0
```

五、

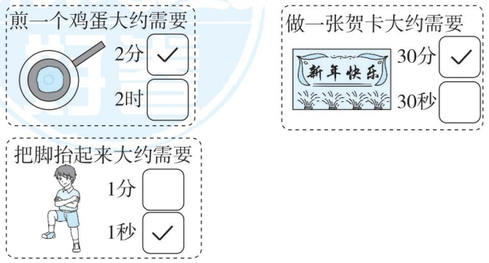

六、1.（1）45÷8=5（个）……5（根）
答：最多能搭5个下面的图案。
（2）66÷9=7（个）……3（个）
7+1=8（个）
答：至少需要8个这样的盘子。

2. 183+129=312（张）　400−312=88（张）
答：还剩88张彩色纸。

3.（1）

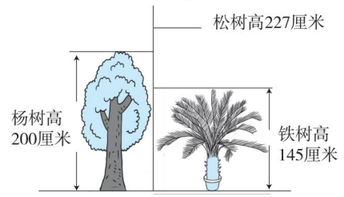

（2）杨树比铁树高多少厘米？
200−145=55（厘米）
答：杨树比铁树高55厘米。
（答案不唯一，合理即可）

4.（1）118−29=89（棵）　答：本周植树89棵。
（2）118+89=207（棵）
答：两周一共植树207棵。

5.（1）338−242=96（厘米）
答：今年夏季水深距历史最高纪录还差96厘米。
（2）242−108=134（厘米）
答：冬季水深为134厘米。

模块过关卷（二）　几何、测量、调查

一、1. 西　北　2. 西　南　3. 钝　锐　直　钝
4. 800　200　5. 4　直　6. 长方　平行四边
7. 北　东北　北　8. 3　1
9. 3000　50　60　80　3　900

二、1. ×　2. ×　3. ×　4. √　5. ×

三、1. ②　2. ②　③　3. ②　4. ②　5. ③

四、1.



（画法均不唯一）

2.

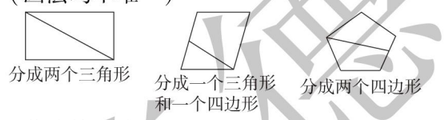

（分法均不唯一）

五、1. 65

2.

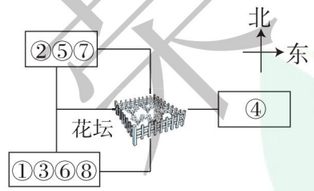

3. 24　19　30　15　88　篮球　橄榄球

六、1.

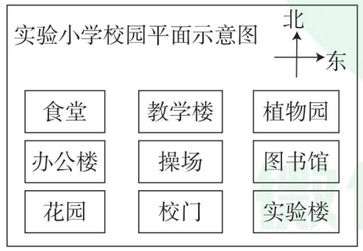

2.（1）

图形	□	□	△	○
记录的方式	正	正一	正	丅
个数	5	6	5	4

（记录的方式不唯一）

（2）20　（3）□　○　▭　△

（4）1　2

模块过关卷（三）　实际应用

一、1. 10000　10　2. 5　3. 千米　时
4. 4　5　5. 3　4　4
6. 9　【点拨】要用“进一法”。
7. 3　【点拨】要用“去尾法”。
8. 8或9　9. 285　10. 8　11. 7；30
12. 6　13. 白珠　蓝珠　14. 8　35　8　45

二、1. ×　2. √　3. ×　4. √　5. ×

三、1. ②　2. ①　3. ③　4. ②　5. ②

四、1. 180　420　280　3　443　940　4　8

2. 20÷6=3……2

```
      3
   6)2 0
     1 8
     ---
       2
```

*159+648=807

```
  1 5 9
+ 6 4 8
-------
  8 0 7
```

验算：

```
  8 0 7
− 1 5 9
-------
  6 4 8
```

*512−293=219

```
  5 1 2
− 2 9 3
-------
  2 1 9
```

验算：

```
  2 1 9
+ 2 9 3
-------
  5 1 2
```

五、1. 245−129=116（辆）
116+187=303（辆）
答：该小区地下停车场有303个停车位。

2. 25÷8=3（次）……1（人）　3+1=4（次）
答：小芳第4次才能进去体验。

3. 拼成的长方形：□□□□长4厘米，宽1厘米。
拼成的大正方形：□□ 边长2厘米。

4.（1）17÷2=8（个）……1（朵）
答：17朵萝卜雕花最多可以放8个盘子。
（2）45÷6=7（张）……3（个）
7+1=8（张）
答：剪45个苹果模型至少需要8张纸。

5.（1）322+489=811（米）
答：要走811米。
（2）647+256=903（米）
903>811　903−811=92（米）
答：走经过医院的路比较近，近92米。

6.（1）7　18　9　2　（2）3～4本

模块过关卷（四）　常考易错题综合

一、1. 六千四百零七　6407　二千零五十　2050
2. 千米　分米　米　分
3.（1）1800　1600　（2）5050　5250
4. 5　7　5　7　5. 5　120　6. 4　44
7. 763　306
8. 1000　厘米　【点拨】1千米=1000米，要数1000次；10毫米=1厘米。
9. 8　10. 2　4

二、1. ×　【点拨】直角的大小是固定的，不会变。
2. √　3. ×　【点拨】应该是西南方向。
4. ×　5. √

三、1. 32　6　840　240　8……1　0　460　746
63　5　564　283　4……8　48　770　900

2. 38÷8=4……6

```
      4
   8)3 8
     3 2
     ---
       6
```

*534+276=810

```
  5 3 4
+ 2 7 6
-------
  8 1 0
```

验算：

```
  8 1 0
− 2 7 6
-------
  5 3 4
```

*602−206=396

```
  6 0 2
− 2 0 6
-------
  3 9 6
```

验算：

```
  3 9 6
+ 2 0 6
-------
  6 0 2
```

3. 4；25　35　5；00　55　5；55

四、1.

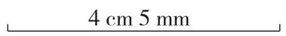

2.（1）□　△　（2）○　○

3.



4. 5　2　2

五、1. 21÷4=5（次）……1（人）　5+1=6（次）
答：第6次才能进去。

2. 280+370=650（千克）
答：两天共卖了650千克。

3. 520−295=225（米）
答：下山比上山少行225米。
【点拨】图中的“长447米”为无用信息。

4.（1）东北　380　东　540
（2）西北　485　970
（3）540−380=160（米）
答：小乐从家到超市比从学校到超市近160米。

5.（1）17
（2）17+13=30（人）
答：最喜欢苹果和最喜欢橘子的一共有30人。
（3）9÷3=3（人）
答：最喜欢芒果的有3人。

期末测试卷

一、1. 6772　2. 5　9　7
3. 分米　毫米　千米　分
4. 四　百　7个百
5. 7050　7060　【点拨】规律为每次加5。
6. 2000　3　1　30　7. 9（或3）

关注微信公众号“教辅资料站”获取更多学习资料

8. 3230 > 3203 > 3023 > 2330 > 2303　9. 6　34
10.

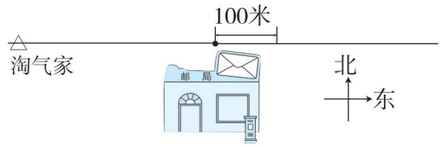

11. (1) 900　(2) 800
12. 7:45　15 分　8:00　2 时 30 分　10:30
13. ①④　②⑤　③

二、1. ②　2. ①　【点拨】注意区分单位。
3. ③　【点拨】一、二年级共有 252 + 308 = 560(人),二、三年级共有 308 + 246 = 554(人),一、三年级共有 252 + 246 = 498(人),选③。
4. ②

三、1. 4　748　8　260　9　42　51　58　694　4
2. 74 ÷ 8=9……2　　264+38=302

$$\begin{array}{r} 9 \\ 8\overline{)7\ 4} \\ 7\ 2 \\ \hline 2 \end{array}$$

$$\begin{array}{r} 2\ 6\ 4 \\ +\ \ 3\ 8 \\ \hline 3\ 0\ 2 \end{array}$$

▲600−127=473

$$\begin{array}{r} 6\ 0\ 0 \\ -\ 1\ 2\ 7 \\ \hline 4\ 7\ 3 \end{array}$$

验算：

$$\begin{array}{r} 4\ 7\ 3 \\ +\ 1\ 2\ 7 \\ \hline 6\ 0\ 0 \end{array}$$

四、1. 东　北　2. 西　东北

五、1. (1) 257 + 76 = 333 (本)
答：故事书和连环画一共有 333 本。
(2) 257 − 139 = 118 (本)
答：科技书比故事书少 118 本。
(3) 60 ÷ 9 = 6 (本) ……6 (元)
答：她最多可以买 6 本连环画。
2. 587 + 174 = 761 (米)
答：小虎步行了 761 米。
3. 24 ÷ 6 = 4 (元)　4 < 6
答：乐乐买的饮料便宜。

六、1.

正 正 丁	正 丁	正 下	正 下

(记录方法不唯一)
2. 12　7　8　8
3. 足球　羽毛球　皮球　篮球

无锡市名校期末测试卷

一、1. 3016　三千零一十六　2. 5599　5601
3. 334　62
4. 5　29　【点拨】余数小于除数。
5. 南　6. (1) 4　(2) 135　1　35
7. (1) 8038　7938　(2) 250　300
【点拨】(1)题的规律是每次减去 100;(2)题的规律是每次加上 25。
8. 7　厘米　9. 8　5　4　10. 8 厘米
11. 分米　时　毫米

二、1. √　【点拨】分针走 1 是 1 时，故时针走一大格。
2. ×　【点拨】做同样的事情，用时越短速度越快。
3. ×　【点拨】最大的三位数是 999，最大的两位数是 99，它们相差 900。
4. ×　5. √

三、1. ③　2. ①　3. ③　4. ①　5. ③

四、1. 650　320　199　48　9　710　2700　390　28　7……1
2. ☆389+68=457

$$\begin{array}{r} 3\ 8\ 9 \\ +\ \ 6\ 8 \\ \hline 4\ 5\ 7 \end{array}$$

验算：

$$\begin{array}{r} 4\ 5\ 7 \\ -\ 3\ 8\ 9 \\ \hline 6\ 8 \end{array}$$

☆802−568=234

$$\begin{array}{r} 8\ 0\ 2 \\ -\ 5\ 6\ 8 \\ \hline 2\ 3\ 4 \end{array}$$

验算：

$$\begin{array}{r} 2\ 3\ 4 \\ +\ 5\ 6\ 8 \\ \hline 8\ 0\ 2 \end{array}$$

73 ÷ 9=8……1

$$\begin{array}{r} 8 \\ 9\overline{)7\ 3} \\ 7\ 2 \\ \hline 1 \end{array}$$

57 ÷ 7=8……1

$$\begin{array}{r} 8 \\ 7\overline{)5\ 7} \\ 5\ 6 \\ \hline 1 \end{array}$$

五、1.

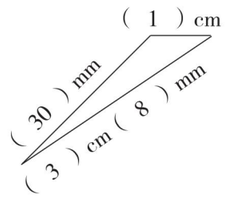

2.

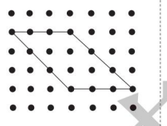

六、1. 50 ÷ 9 = 5 (个) ……5 (个)
答：每个小朋友分到 5 个苹果，还剩 5 个苹果。
2. 45 ÷ 6 = 7(辆)……3(人)　7 + 1 = 8(辆)
答：至少要安排 8 辆这样的车。
【点拨】注意此类题目，当有余数时，则需要增加 1 辆车。
3. 5 × 9 = 45 (页)　45 + 67 = 112 (页)
答：这本故事书共有 112 页。
4. 323 − 56 = 267 (台)　267 + 323 = 590 (台)
答：这一天共卖出 590 台电视机。
5. 1 米 = 100 厘米　5 分米 = 50 厘米
35 + 50 = 85(厘米)　100 − 85 = 15(厘米)
答：这根彩带还剩下 15 厘米。
【点拨】当题目中出现不同的计量单位时，要先把单位化统一，再进行计算。
6. (1) 林河村 > 小枣村 > 爱民村 > 阳光村 > 向华村
(2)

林河村	向华村	小枣村	北
爱民村	公园	阳光村	东

浙江省名校期末测试卷

一、1. 3158　二千零一十四　2. 千　2　2　十
3. 10　10　4. 9998　10000
5. (1) 76　90　(2) 6066　5966
6. 8　7000　70　7. 6　8　5　4
8. 5005　5005 或 5050　5500
9. <　>　=　=　>　10. 3
11. 3　1　4　12. 7　3　13. 6
14. 分米　厘米　米
15. 3 时 > 2 时 10 分 > 1 时 50 分 > 70 分
16. (1)西　东南　(2)西　西南　(3)学校

二、1. ×　2. √　3. ×　4. ×　5. √　6. ×　7. ×　8. √

三、1. 8……3　800　456　2　7　225　1600　7
2. 64 ÷ 9=7……1

$$\begin{array}{r} 7 \\ 9\overline{)6\ 4} \\ 6\ 3 \\ \hline 1 \end{array}$$

502−216=286

$$\begin{array}{r} 5\ 0\ 2 \\ -\ 2\ 1\ 6 \\ \hline 2\ 8\ 6 \end{array}$$

*315+587=902

$$\begin{array}{r} 3\ 1\ 5 \\ +\ 5\ 8\ 7 \\ \hline 9\ 0\ 2 \end{array}$$

验算：

$$\begin{array}{r} 9\ 0\ 2 \\ -\ 3\ 1\ 5 \\ \hline 5\ 8\ 7 \end{array}$$

四、1. 3 cm 5 mm
2.

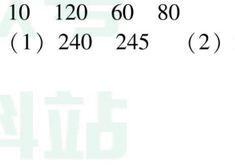

(答案不唯一)

五、1. 14 ÷ 3 = 4 (枝) ……2 (枝)
答：每个花瓶插 4 枝，还剩 2 枝。
2. 8 时 − 7 时 25 分 = 35 分
35 ÷ 8 = 4 (朵) ……3 (分)
答：她从 7：25 到 8：00 最多能做 4 朵花。
3. (1) 368 + 68 = 436 (元)
答：买一套桌椅共花 436 元钱。
(2) 580 − 365 = 215 (元)
答：一个柜子比一张床少 215 元钱。
4. (1) 22 ÷ 7 = 3 (个) ……1 (个)
16 ÷ 3 = 5 (个) ……1 (盒)
10 ÷ 2 = 5 (个)　3 < 5
答：最多能分 3 个小组。
(2)22 ÷ 5 = 4(个)……2(个)　7 − 4 = 3(个)
答：每个小组少分 3 个皮球，这些玩具就够平均分给 5 个小组了。
5. (1) 正正丌　正正丁　正丌(记录方法不唯一)
(2) 篮球　排球

黄冈市名校期末测试卷

一、1. 3809　三千八百零九
2. 7004　千　7　千
3. 7320　2037　7320 (最后一空答案不唯一)
4. 9101　9099
5. (1) 分米　(2) 米　(3) 厘米
(4) 分　(5) 秒
6. 10　120　60　80
7. (1) 240　245　(2) 25　36
8. 5　2　9. 东北　10. 5　3

二、1. ×　【点拨】角的大小与边的长度无关。
2. ×　3. √　4. ×
5. ×　【点拨】面向东面时，左边是北面。

三、1. ①　2. ②　3. ②　4. ②　5. ①　6. ②

四、1. 220　300　770　9　970　380　3……7　820
2. *48+103=151

$$\begin{array}{r} 4\ 8 \\ +\ 1\ 0\ 3 \\ \hline 1\ 5\ 1 \end{array}$$

验算：

$$\begin{array}{r} 1\ 5\ 1 \\ -\ \ 4\ 8 \\ \hline 1\ 0\ 3 \end{array}$$

*946−873=73

$$\begin{array}{r} 9\ 4\ 6 \\ -\ 8\ 7\ 3 \\ \hline 7\ 3 \end{array}$$

验算：

$$\begin{array}{r} 7\ 3 \\ +\ 8\ 7\ 3 \\ \hline 9\ 4\ 6 \end{array}$$

29 ÷ 6=4……5

$$\begin{array}{r} 4 \\ 6\overline{)2\ 9} \\ 2\ 4 \\ \hline 5 \end{array}$$

42 ÷ 7=6

$$\begin{array}{r} 6 \\ 7\overline{)4\ 2} \\ 4\ 2 \\ \hline 0 \end{array}$$

500−169=331

$$\begin{array}{r} 5\ 0\ 0 \\ -\ 1\ 6\ 9 \\ \hline 3\ 3\ 1 \end{array}$$

376+134=510

$$\begin{array}{r} 3\ 7\ 6 \\ +\ 1\ 3\ 4 \\ \hline 5\ 1\ 0 \end{array}$$

五、1.

		妙妙	北
	我		东
淘气	笑笑		

2. 6厘米
3.

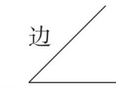

顶点　边　(所画角不唯一)

六、1. 11 时 30 分 − 9 时 = 2 时 30 分
2 时 30 分 − 40 分 = 1 时 50 分
答：小红在图书馆呆了 1 时 50 分。
2. 33 ÷ 5 = 6 (件) ……3 (粒)
答：33 粒扣子最多能钉 6 件上衣，还剩 3 粒扣子。
3. 23 + 20 = 43 (人)
43 ÷ 5 = 8 (条) ……3 (人)
8 + 1 = 9 (条)
答：至少要租 9 条船。
4. (1)

780 米	850 米	980 米	2 千米
		○	√

(2) 小刚家离学校最远，小玉家离学校最近。
(3) 2 + 2 = 4 (千米)
答：大约要走 4 千米。
5. (1) 500　南昌西
(2) 500 − 159 = 341 (千米)
答：杭州东站到上饶站有 341 千米。
(3) 杭州东站到宜春站有多少千米?

关注微信公众号“教辅资料站”获取更多学习资料

好卷

小卷

- 周测培优卷（11套）
- 专项能力提升卷（7套）



2年级 数学

下（BS版）

荣德基好卷
微信公众号
教辅资料站
关注微信公众号“教辅资料站”获取更多学习资料



目录

周测培优卷

除法的计算能力检测卷 …… 01

除法的应用能力检测卷 …… 03

方向与位置能力检测卷 …… 05

大数的读、写、意义的理解能力检测卷 …… 07

大数的比较和估计能力检测卷 …… 09

测量能力检测卷 …… 11

加与减的计算能力检测卷 …… 13

加与减的应用能力检测卷 …… 15

认识图形能力检测卷 …… 17

时、分、秒的理解能力检测卷 …… 19

调查与记录能力检测卷 …… 21

专项能力提升卷

计算的挑战 …… 23

单位的转化 …… 25

统计与概率 …… 27

熟练理解万以内的数 …… 29

简单的空间想象能力 …… 31

有余数的除法应用题强化练习 …… 33

加与减的应用题综合练习 …… 35

参考答案及点拨 …… 37

荣德基好卷

微信公众号
教辅资料站

关注微信公众号“教辅资料站”获取更多学习资料

周测培优卷 1
除法的计算能力检测卷

班级_____ 姓名_____ 得分_____ 时间：40分钟 满分：100分

一、我会填。(每空2分，共28分)

1. 计算有余数的除法时，(　　)必须比(　　)小。
2. 除数是8，商是7，余数是2，被除数是(　　)。
3. 两个数相除，余数是6，除数最小是（　　）。
4. (　　) 里最大能填几？

5 ×(　　) <43　　35 >6 ×(　　)　　(　　) ×8 <53

(　　) ×9 <86　　(　　) ×4 <35　　7 ×(　　) <22

5. 60个松果，平均分给7只小松鼠，至少要拿出（　　）个松果，剩下的才能平均分给它们，每只小松鼠能分到（　　）个松果。

$$\begin{array}{r} 8 \\ 7\overline{)60} \\ \underline{56} \\ 4 \end{array}$$

60—表示有60个松果
56—表示（　　）
4—表示（　　）

二、计算挑战。(共32分)

1. 直接写出下面各题的商。(每题2分，共8分)

□ ÷7 = 4……8　　□ ÷8 = 5……7　　□ ÷5 = 4……6　　□ ÷9 = 8……7

2. 列竖式计算。(每题4分，共24分)

33 ÷5 =　　45 ÷9 =　　23 ÷8 =

74 ÷8 =　　37 ÷5 =　　26 ÷3 =

荣德基好卷
微信公众号
教辅资料站

关注微信公众号“教辅资料站”获取更多学习资料

三、森林医生。(每题5分，共10分)

1.



改正：

(　　)

2.



改正：

(　　)

四、把鱼儿送回家。(12分)

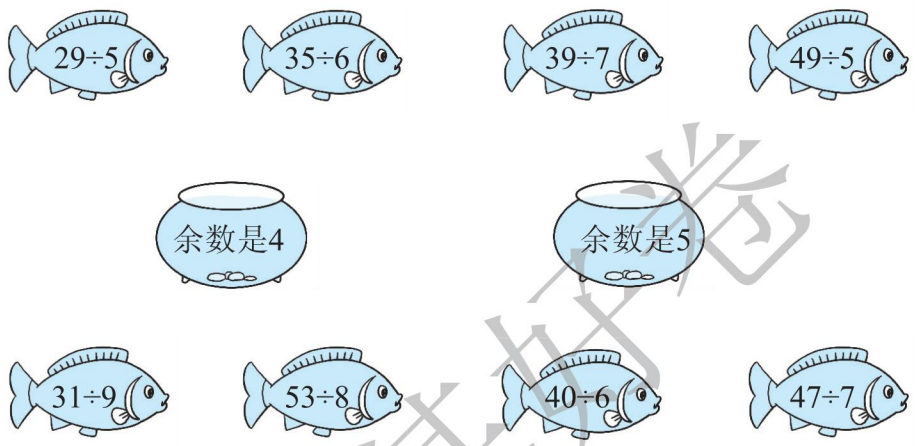

五、走进生活，解决问题。(共18分)

1. 如果每9个苹果装一袋，可以装几袋？还剩多少个？(9分)

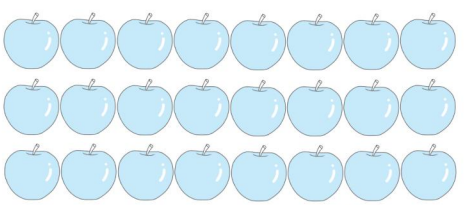

2. 至少要搭几顶帐篷？(9分)



荣德基好卷
微信公众号
教辅资料站

关注微信公众号“教辅资料站”获取更多学习资料

周测培优卷 2
除法的应用能力检测卷

班级_____ 姓名_____ 得分_____ 时间：40分钟 满分：100分

一、我会填。(每空2分，共30分)

1. (　　) 里最大能填几？

(　　)×4<26　　6×(　　)<33　　22>(　　)×6

46>(　　)×7　　5×(　　)<31　　69>(　　)×7

2. 38里面最多有(　　)个5；48里面最多有(　　)个7。

3. □÷5=7……△，△可能是(　　)。

4. 八月份有31天，一个星期有7天，八月份有(　　)个星期还多(　　)天。

5. △△▭☆☆△△▭☆☆△△▭……第26个图形是(　　)。

6. 程老师有24本故事书，平均分给5个小组，每个小组能分(　　)本，还剩(　　)本；程老师再买(　　)本，正好每个小组分6本。

二、列竖式计算。(每题3分，共12分)

53÷9=　　68÷8=　　37÷6=　　60÷7=

三、看图列式。(12分)



□×□+□=□(个)

□÷□=□(盘)……□(个)　　□÷□=□(个)……□(个)

四、走进生活，解决问题。(共46分)

1. 有20根小棒，分别可以摆几个图形？还剩几根小棒？算一算，填一填。(9分)

	可以摆几个图形	还剩几根小棒	算式
			
			
			

荣德基好卷
微信公众号
教辅资料站

关注微信公众号“教辅资料站”获取更多学习资料

2.



（1）填一填。（每空 1 分，共 5 分）

苹果数/个	9	18	27	36	45	54
盘数/盘	1					

（2）最多可以装几盘？还剩几个？列式算一算。（6 分）

3. 李阿姨拿 60 元买巧克力，每块巧克力 8 元。

（1）她最多可以买几块巧克力？还剩多少钱？（6 分）

（2）她想多买一块巧克力，还差多少钱？（6 分）

4. 丁丁和 30 名同学去游乐场游玩。



价目表

碰碰车：8元/人

小　船：9元/人

小火车：6元/人

（1）50 元钱最多能买几张碰碰车票？用这些钱买小火车票呢？（7 分）

（2）如果同学们都坐小船，每条小船可坐 4 人，那么至少需要租几条小船？（7 分）

荣德基好卷

关注微信公众号“教辅资料站”获取更多学习资料

周测培优卷 3
方向与位置能力检测卷

班级_____ 姓名_____ 得分_____ 时间：40分钟 满分：100分

一、我会填。（每空2分，共32分）

1. 地图上的方向通常是上（　　）、下（　　）、左（　　）、右东。
2. 与北相对的方向是（　　），与西相对的方向是（　　），与西北相对的方向是（　　），与西南相对的方向是（　　）。
3. 奇思面向北，后面是（　　），左面是（　　），右面是（　　）。
4. 如果在野外迷了路，我们可以根据树叶的稀稠分辨方向。树叶稠的一面为（　　），树叶稀的一面为（　　）。
5. 晴朗的夜晚，北斗星出现在天空的（　　）面。
6. 刮东风时，烟囱里冒出的烟往（　　）面飘；刮南风时，小树会向（　　）面弯腰。
7. 

二、我会辨。（对的在括号里画“√”，错的画“×”。每题3分，共12分）

1. 亮亮面向东，他的左边是南，右边是北。（　　）
2. 秋天来了，燕子飞往南方。（　　）
3. 东南与西南相对，西北与东北相对。（　　）
4. 如果小力在小刚的西面，那么小刚一定在小力的东面。（　　）

三、动手操作，开发大脑。（共24分）

1. （1）在的东南面画一个♡。（3分）

（2）在的东北面画一个☾。（3分）

（3）在的西北面画一个☆。（3分）

（4）在的西南面画一个○。（3分）

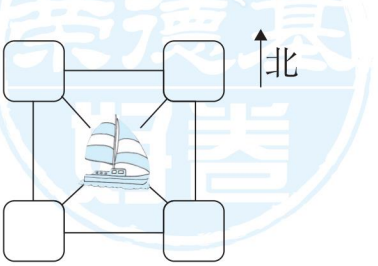

关注微信公众号“教辅资料站”获取更多学习资料

2. 数字找家。（一个格子中只有一个数字）。（12 分）

4 说：“我在 1 的西面。”

5 说：“我在 9 的南面。”

3 说：“我在 2 的西南方向。”

6 说：“我在 1 的北面。”

7 说：“我在 1 的东北方向。”

8 说：“我在 2 的南面。”

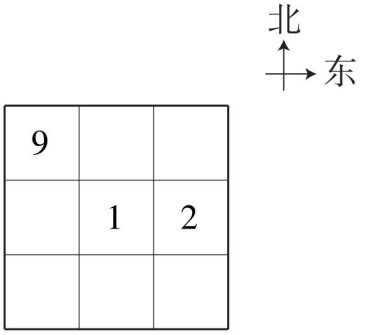

四、我会按要求解决。（共 32 分）

1. 和谐的动物们。

（1）斑马住在老虎的（　　）面，住在狐狸的（　　）面。（3 分）

（2）狮子住在猴子的（　　）面，住在绵羊的（　　）面。（3 分）

（3）（　　）住在狐狸的西面、松鼠的北面。（2 分）



2. 按要求填写下列式子。（12 分）

余 1 的填在西北方向框中。

余 2 的填在西南方向框中。

余 3 的填在东南方向框中。

余 4 的填在东北方向框中。

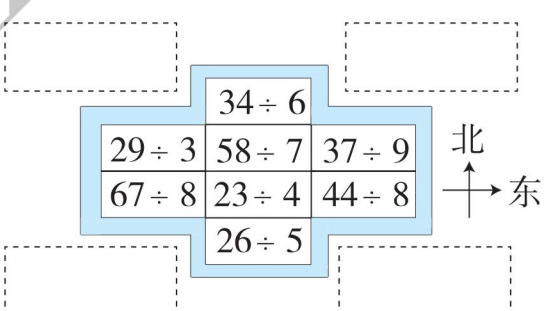

3. 生活体验馆。

（1）摄影室在科技室的（　　）面，在泥塑室的（　　）面。（4 分）

（2）摄影室在入口的（　　）方向，泥塑室在出口的（　　）方向。（4 分）

（3）绘画室在摄影室的（　　）方向，科技室在泥塑室的（　　）方向。（4 分）

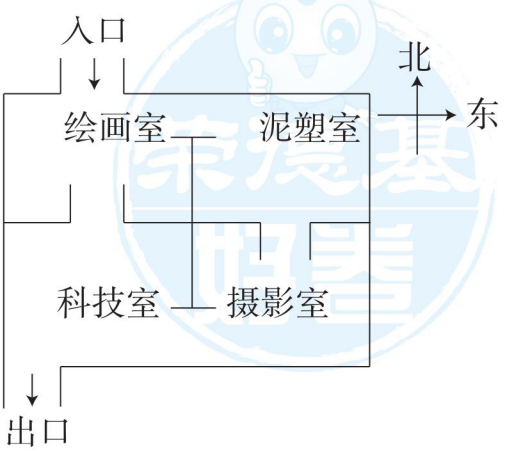

荣德基初高

关注微信公众号“教辅资料站”获取更多学习资料

周测培优卷 4
大数的读、写、意义的理解能力检测卷

班级_____ 姓名_____ 得分_____ 时间：40分钟 满分：100分

一、我会读数和写数。（每题4分，共12分）

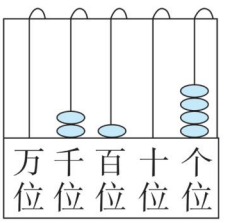

写作：_____
读作：_____

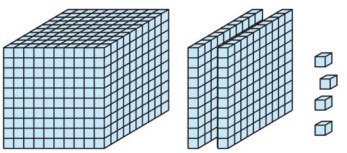

写作：_____
读作：_____



100张

写作：_____
读作：_____

二、我会填。（每空2分，共32分）

1. 在6060中，右起第二位上的“6”表示（　　），第四位上的“6”表示（　　）。
2. 用4，0，8可以组成（　　）个不同的三位数，最大的是（　　），最小的是（　　）。
3. 北岳恒山主峰海拔约二千零一十六米，横线上的数写作（　　），约是（　　）。
4. 68个百是（　　），5400里面有（　　）个一。
5. 由7个千、5个十和8个一组成的数是（　　）。
6. 按规律填数。

（1）3000，4000，5000，（　　），（　　），8000。

（2）2080，2090，（　　），2110，（　　）。

（3）450，（　　），550，（　　），650。

三、我会选。（把正确答案的序号填在括号里。每题4分，共16分）

1. 9000里面有（　　）个100。

① 9　　② 90　　③ 900

2. 最高位是百位的数是（　　）。

① 三位数　　② 四位数　　③ 五位数

荣德基好卷

关注微信公众号“教辅资料站”获取更多学习资料

3. 写数和读数时，都要从（　　）位起。

① 万　　② 个　　③ 最高

4. 下列各数中，与5000最接近的是（　　）。

① 4998　　② 4001　　③ 4999

四、我会按要求解决。(共40分)

1. 每个数中的“6”各表示多少？连一连。(12分)

604　　560　　6025　　436

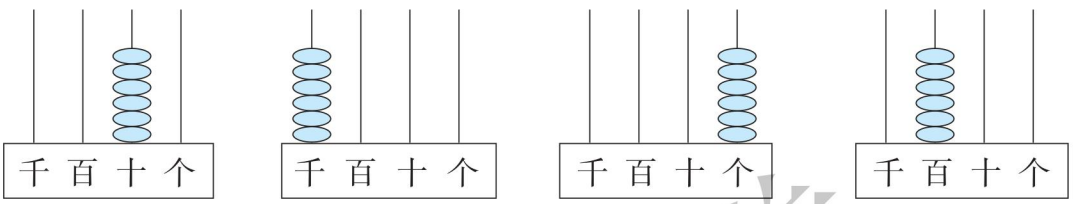

2. 猜数游戏。(10分)



3. 数一数，做一做。(18分)

图例	总数	做一做
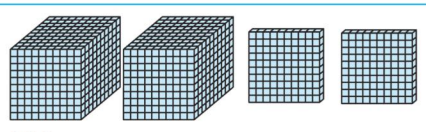		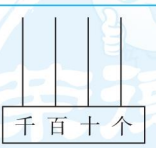
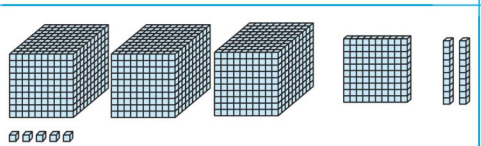		□ = □ + □ + □ + □
 10张		买一部手机需要1200元，还需要再加□张。

关注微信公众号“教辅资料站”获取更多学习资料

周测培优卷 5
大数的比较和估计能力检测卷

班级_____ 姓名_____ 得分_____ 时间：40分钟 满分：100分

一、我会做。（第6题5分，其余每空1.5分，共35分）

1. 10个一是(　　)，10个十是(　　)，一千里面有(　　)个百，(　　)个千是一万。

2. 在□里填上合适的数字。

622＜6□8　　706＞□05　　23□＞236　　9□5＜945

3. 在○里填上“＞”“＜”或“＝”。

5439○598　　2316○2316　　8100○8010　　9637○9673

4. 按照从低到高的顺序排列下面四种电脑的价格。



(　　)＜(　　)＜(　　)＜(　　)

5. 找规律，填一填。

（1）378，379，(　　)，(　　)，382。

（2）6350，6360，(　　)，6380，(　　)。

6.

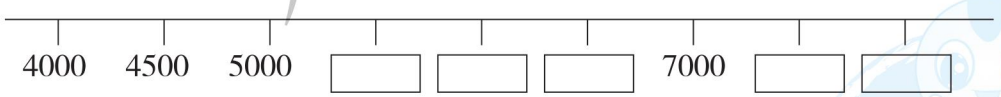

二、我会选。（把正确答案的序号填在括号里。每题5分，共20分）

1. 3600里面有(　　)个百。

① 360　　② 36　　③ 6

2. 下面各数中只读一个零的数是(　　)。

① 7560　　② 8000　　③ 4050

3. 由8个千和6个一组成的数是(　　)。

① 8060　　② 806　　③ 8006

关注微信公众号“教辅资料站”获取更多学习资料

4. 与 9000 相邻的两个数是(　　)。

① 10000 和 8000　　② 10000 和 8999　　③ 9001 和 8999

三、我会按要求解决。(共 45 分)

1. 估一估，有多少粒黄豆？(每空 5 分，共 10 分)



大约有（　　）粒。

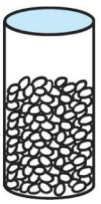

有 200 粒。



大约有（　　）粒。

2. 估一估。(7 分)



3. 圈一圈，估一估。大约有（　　）颗花生。(9 分)

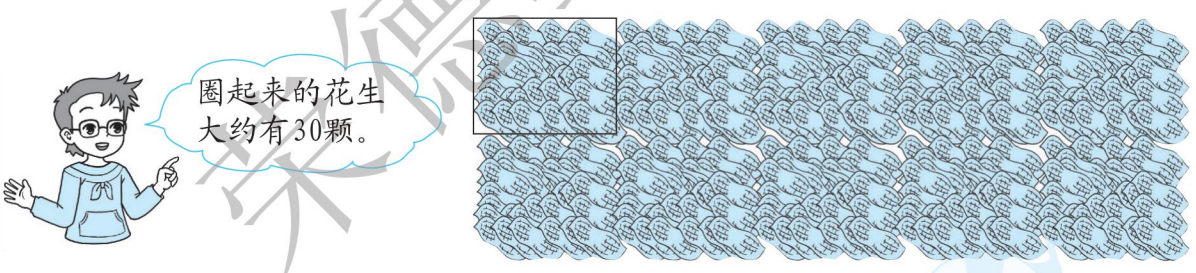

4. 珠穆朗玛峰海拔约 8844 米。在数线上标出 8844 的大致位置。(9 分)



5. 你会标出刘华家和小明家的位置吗？(10 分)

刘华家在少年宫东面 400 米，小明家在电影院西面 500 米。

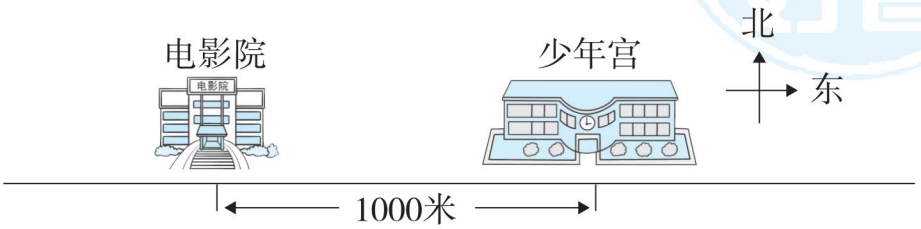

关注微信公众号“教辅资料站”获取更多学习资料

周测培优卷 6
测量能力检测卷

班级_____ 姓名_____ 得分_____ 时间：40分钟 满分：100分

一、我会填合适的单位。（每题4分，共24分）



马拉松项目的全程距离约为42（　　）。



电线杆高约6（　　）。

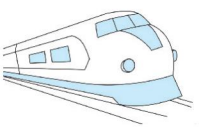

动车时速约为260（　　）。



洗衣机高约1（　　）。



小明身高约13（　　）。



黄河全长约为5464（　　）。

二、我会正确地进行单位之间的转化。（每题2分，共12分）

2分米=____厘米	8千米=____米	9厘米=____毫米
600厘米=____米	70分米=____米	30毫米=____厘米



三、在○里填上“＞”“＜”或“＝”。（每题3分，共18分）

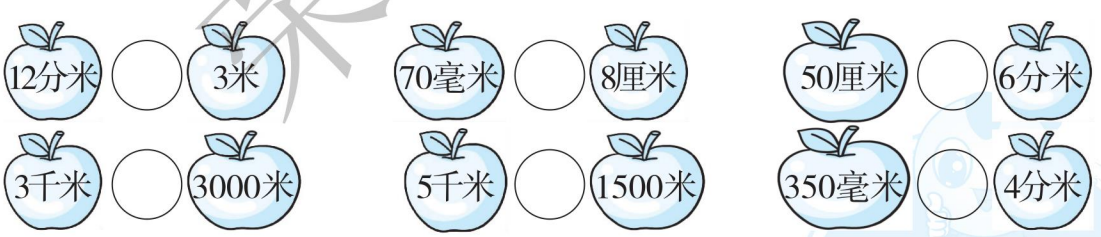

四、动手操作，开发大脑。（共28分）

1. 我会测量物品的实际长度。（9分）



纸条长_____厘米

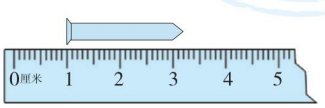

钉子长_____厘米_____毫米。

关注微信公众号“教辅资料站”获取更多学习资料

2. 我会正确测量各边的长度。(7 分)

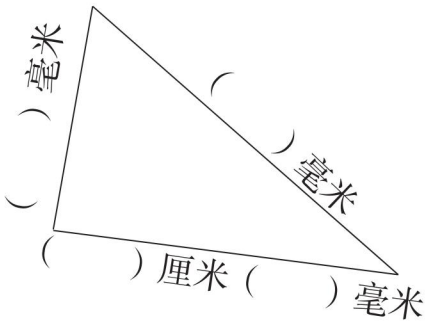



（ ）厘米（ ）毫米

3. 我会按要求画线。

(1) 画一条比 6 厘米短 5 毫米的线。(6 分)

(2) 画一条长 39 毫米的线。(6 分)

五、走进生活，解决问题。(共 18 分)

1. 爸爸带聪聪去外地旅游。汽车在公路上行驶了一段时间后，聪聪看到了一个指示牌。这条公路长多少千米？(9 分)



2. 一支铅笔长 18 厘米，用去 20 毫米，还剩多少厘米？(9 分)

荣德基好卷

关注微信公众号“教辅资料站”获取更多学习资料

周测培优卷 7
加与减的计算能力检测卷

班级_____ 姓名_____ 得分_____ 时间：40分钟 满分：100分

一、我会填。（每题4分，共24分）

1. 笔算加减法时，要把（　　）对齐，从（　　）算起。
2. 加法可以用（　　）法或（　　）法来验算。
3. 两个三位数相加，它们的和可能是（　　）位数，也可能是（　　）位数。
4. 甲数是487，乙数是136，甲、乙两数的和是（　　）；甲数减少（　　）就和乙数同样大。
5. 不计算，在○里填上“>”“<”或“=”。

532－156 ○ 532－165　　135＋678 ○ 153＋678

800－589 ○ 860－589　　257＋671 ○ 671＋257

6. 把这些算式按得数的大小，从大到小排成一行。

400＋333　245＋255　917－356　236＋666

_____ > _____ > _____ > _____

二、计算挑战。（共50分）

1. 看谁算得又对又快。（每题1分，共8分）

260＋70＝　460＋60＝　620＋300＝　1700＋300＝

260－70＝　460－60＝　620－300＝　1700－300＝

2. 列竖式计算。（带△的要验算）（每题4分，共24分）

624＋167＝　△435＋385＝　217－168＝

732－89＝　1000－402＝　△802－349＝

荣德基好卷

关注微信公众号“教辅资料站”获取更多学习资料

3. 森林医生。（每题 4 分，共 8 分）



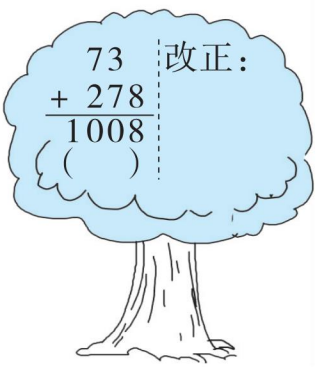

4. 小蜻蜓找家。（10 分）





三、走进生活，解决问题。（共 26 分）

1. 李叔叔和王阿姨每天早上到广场跑 900 米。今天早上到现在，两人谁跑得多？多多少？（13 分）



2. 水果店有 350 筐苹果，上午卖出 145 筐，下午比上午少卖 58 筐。这一天一共卖了多少筐？（13 分）



荣德基好卷

关注微信公众号“教辅资料站”获取更多学习资料

周测培优卷 8
加与减的应用能力检测卷

班级_____ 姓名_____ 得分_____ 时间：40分钟 满分：100分

一、我会填。（每题 4 分，共 20 分）

1. 286 比 400 少多少？列式是（　　），结果是（　　）。
2. 576 比一个数少 245，求这个数。列式是（　　），结果是（　　）。
3. 一道减法算式中，被减数、减数、差的和是 200，被减数是（　　）。
4. 手机促销活动：
   大约降价（　　）元，
   实际降价（　　）元。



原价：898元
现价：685元

5. 本届“梦之蓝杯”绘画大赛共有 425 幅作品获奖，比上届少了 49 幅。要求两届共有多少幅作品获奖，先要求出（　　），列式计算是（　　）。

二、列竖式计算，带△的要验算。（每题 5 分，共 10 分）

58 + 429 =　　△600 − 119 =

三、走进生活，解决问题。（共 70 分）

1. 下面是“我要上春晚”海选报名选手的人数统计表。请提出一个数学问题，并选择合适的方法解答。（12 分）

歌舞类	355 名
语言类	297 名
杂技类	148 名

2. 上午接了 397 个订单，下午比上午多接了 126 个订单。



（1）今天实际接了多少个订单？（9 分）

关注微信公众号“教辅资料站”获取更多学习资料

（2）实际比预计多接了多少个订单？（9 分）

3. 实验小学一、二年级的学生去参观博物馆。一年级来了 379 人，二年级来了 305 人。

（1）估一估，能全部进入馆内吗？（10 分）



（2）算一算，去参观博物馆的学生一共有多少人？（10 分）

4. 学校运动场上正在进行 800 米比赛。



（1）小明和小乐分别离终点多少米？（10 分）

（2）小华落后小明多少米？（10 分）

荣德基好卷

关注微信公众号“教辅资料站”获取更多学习资料

周测培优卷 9
认识图形能力检测卷

班级_____ 姓名_____ 得分_____ 时间：40分钟 满分：100分

一、我会填。（每空2分，共32分）

1. 直角三角尺有（　　）个锐角、1个（　　）角。
2. 四条边都相等、四个角都是直角的四边形是（　　）。
3. 每个三角形最少有（　　）个锐角，正方形、长方形、平行四边形都有（　　）条边。
4. 角的大小与（　　）无关，与（　　）有关。
5. 在括号里填上适当的数。（单位：厘米）



（　　）　（　　）　（　　）　（　　）

6. 如图，用手拉动一个长方形框架的对角，这个框架就变成一个（　　）。

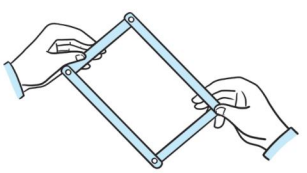

7. 分别剪去三角形中的涂色部分，各剩几个角？

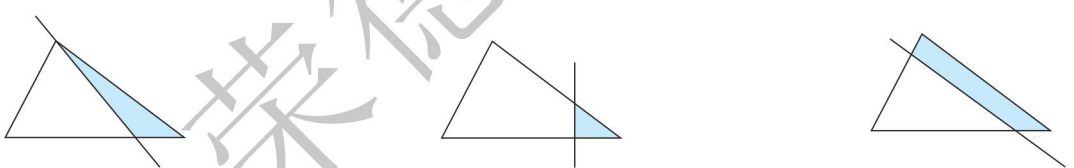

（　　）个角　　（　　）个角　　（　　）个角

二、我会辨。（对的在括号里画“√”，错的画“×”。每题3分，共12分）

□  角的顶点位置确定角的大小。	□  用放大镜看角，角变大了。
□  平行四边形不容易变形。	□  正方形的四条边都相等。

三、我会选。（把正确答案的序号填在括号里。每题3分，共9分）

1. 至少用（　　）个完全相同的正方形可以拼成一个大正方形。

① 2　　② 4　　③ 8

关注微信公众号“教辅资料站”获取更多学习资料

2. 用下面两个完全一样的三角形，不能拼成的图形是(　　)。

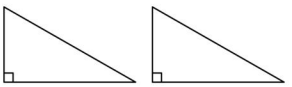

①三角形　　②长方形　　③正方形

3. 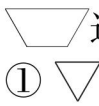这个图形再补上下面（　　）号图形就变成平行四边形了。

①　②　③

四、认标志，识图形。(每空 3 分，共 9 分)



十字交叉

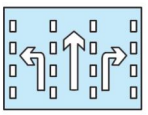

分向行驶车道



注意儿童



单行路直行



环形交叉



直行和右转专用车道



两侧变窄



允许掉头

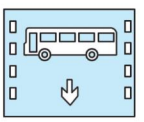

公交线路专用车道

长方形标志有（　　）个，正方形标志有（　　）个，三角形标志有（　　）个。

五、动手操作，开发大脑。(共 17 分)

1. 把两张大小相同的正方形纸片拼在一起，可以拼出一个（　　），画出你拼出的图形的示意图。(8 分)



2.



(1) 将上面的长方形纸折成一个最大的正方形，正方形的边长是（　　）厘米。(4 分)

(2) 这张长方形纸最多可以剪（　　）个这样的正方形。(5 分)

六、我会数图形。(每空 3 分，共 21 分)

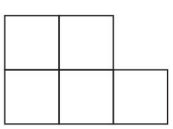

（　　）个正方形

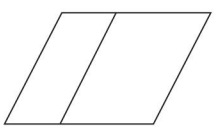

（　　）个平行四边形



（　　）个长方形

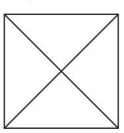

（　　）个直角

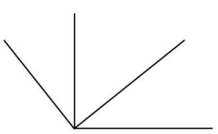

（　　）个锐角

（　　）个钝角

（　　）个直角

关注微信公众号“教辅资料站”获取更多学习资料

周测培优卷 10
时、分、秒的理解能力检测卷

班级_____ 姓名_____ 得分_____ 时间：40分钟 满分：100分

一、我会填。(每空2分，共34分)

1. 时针走一大格是(　　)时。分针走一小格是(　　)分，走一圈是(　　)分，也就是(　　)。
2. 秒针从数字“3”走到数字“6”经过(　　)秒；分针从数字“4”走到数字“8”经过(　　)分。
3. 4时 = (　　) 分　　180分 = (　　) 时
   1时20分 = (　　) 分　　120秒 = (　　) 分
   1分10秒 = (　　) 秒　　100分 = (　　) 时 (　　) 分
4. 选择“时”“分”“秒”填在括号里。
   (1) 从1数到5大约需3(　　)。
   (2) 课间休息时间是10(　　)。
   (3) 爸爸一天的工作时间是8(　　)。
   (4) 吃一顿饭要用30(　　)。

二、我会选。(把正确答案的序号填在括号里。每题4分，共16分)

1. 分针从钟面上的1走到7，中间经过了(　　)分。
   ① 6　　② 30　　③ 35
2. 小学生每天在学校的时间大约是(　　)。
   ① 6时　　② 6分　　③ 6秒
3. 分针和时针在(　　)时整时成一条直线。
   ① 3　　② 6　　③ 9
4. 从12开始，(　　)走1圈，正好是1时。
   ①时针　　②分针　　③秒针

三、我会按要求解决。(共26分)

1. 看钟面，写时间。(每题3分，共9分)



__时__分

:



__时__分

:



__时__分

:

关注微信公众号“教辅资料站”获取更多学习资料

2. 他们读对了吗？对的在括号里画“√”，错的画“×”。（每题3分，共9分）

（1）


（　　）

（2）


（　　）

（3）


（　　）

3. 看图填一填。（每题4分，共8分）


踢球用了（　　）分。

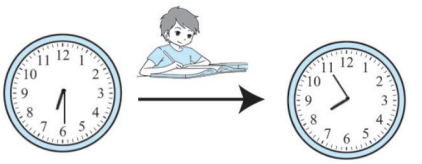
写作业用了（　　）分。

四、走进生活，解决问题。（共24分）

1. 一列火车本应下午4：45到达，现在要晚点15分，它什么时候到达？（6分）

2. 小明从家到学校要走20分，他每天早晨要在7：50到校，他最晚应在几时几分从家出发？（6分）


小明

3. 演出用了多长时间？（6分）

演出时间：
晚上8:30~9:45



4. 小亮绕操场跑一圈要用2分50秒，小雨跑一圈要用2分16秒，谁跑得快？快多少秒？（6分）

荣德基好卷

关注微信公众号“教辅资料站”获取更多学习资料

周测培优卷 11
调查与记录能力检测卷

班级_____ 姓名_____ 得分_____ 时间：40分钟 满分：100分

一、小霞调查了本班同学最喜欢的科目情况，下面是调查记录。(共24分)

语文	√√√√√√√√	数学	○○○○○○○○○
英语	××××××	音乐	□□□□□□
体育	正正下	美术	丨丨丨丨丨丨丨

1. 最喜欢语文科目的有（　　）人，最喜欢数学科目的有（　　）人，最喜欢英语科目的有（　　）人，最喜欢音乐科目的有（　　）人，最喜欢体育科目的有(　　)人，最喜欢美术科目的有（　　）人。(18分)
2. 小霞一共调查了（　　）人。(3分)
3. （　　）是喜欢人数最多的科目。(3分)

二、看图填一填。(共22分)

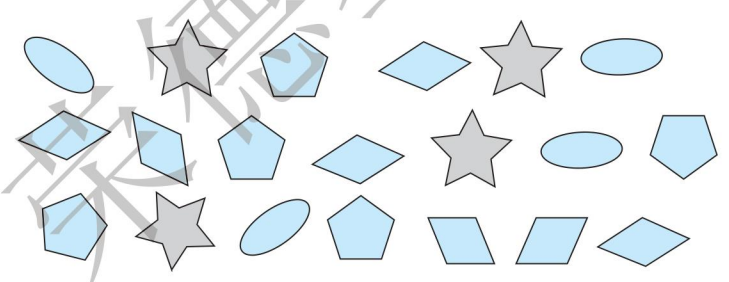

1. 数一数，并填入下表。(8分)

（　　）个	（　　）个	（　　）个	（　　）个

2. 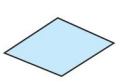比多（　　）个，比多（　　）个；比少（　　）个，比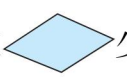少（　　）个。(8分)
3. （　　）最多，（　　）和（　　）一样多。(6分)

关注微信公众号“教辅资料站”获取更多学习资料

三、下面是星星超市今天卖出的四种饮料的瓶数情况。（共 28 分）

鲜橙多	可乐	雪碧	冰红茶
正正正下	正正下	正正正丁	正正正正

1. 星星超市今天卖出鲜橙多（　　）瓶，卖出可乐（　　）瓶，卖出雪碧（　　）瓶，卖出冰红茶（　　）瓶。（16 分）
2. 星星超市今天卖出的雪碧比可乐多（　　）瓶，比冰红茶少（　　）瓶。（8 分）
3. 星星超市今天卖出的（　　）的瓶数最多。（4 分）

四、图书室为了解童话书、漫画书、儿童文学及其他类书的借阅情况，做了下面的登记表。（共 26 分）

			其他
正正 正正 正正 丅	正正 正正 正正 正正 正正 丅	正正 正正 丅	正正 正正 正正

1. 借阅童话书的有（　　）人。（8 分）
2. 借阅（　　）的人数最多，借阅（　　）的人数最少。说说你是怎么知道的？（12 分）

3. 图书室要新买一批图书，你有什么建议？（6 分）

荣德基好卷

关注微信公众号“教辅资料站”获取更多学习资料

荣德基 好卷

参考答案及点拨

2年级 数学 下 BS版 （小卷）

周测培优卷 1

除法的计算能力检测卷

一、1. 余数　除数

2. 58

3. 7

4. 8　5　6　9　8　3

5. 4　8

```
      8
7 ) 6   0   —表示有60个松果
    5   6   —表示（分了56个松果）
        4   —表示（剩余4个松果）
```

二、1. 6　7　9　9

2. 33 ÷ 5=6……3

```
      6
5 ) 3   3
    3   0
        3
```

45 ÷ 9=5

```
      5
9 ) 4   5
    4   5
        0
```

23 ÷ 8=2……7

```
      2
8 ) 2   3
    1   6
        7
```

74 ÷ 8=9……2

```
      9
8 ) 7   4
    7   2
        2
```

37 ÷ 5=7……2

```
      7
5 ) 3   7
    3   5
        2
```

26 ÷ 3=8……2

```
      8
3 ) 2   6
    2   4
        2
```

三、1. ×　改正：

```
      7
6 ) 4   2
    4   2
        0
```

2. ×　改正：

```
      3
9 ) 3   1
    2   7
        4
```

四、

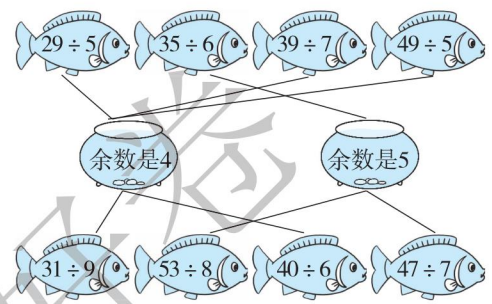

五、1. 3 × 8 = 24（个）

24 ÷ 9 = 2（袋）……6（个）

答：可以装 2 袋，还剩 6 个。

2. 17 ÷ 3 = 5（顶）……2（人）

5 + 1 = 6（顶）

答：至少要搭 6 顶帐篷。

周测培优卷 2

除法的应用能力检测卷

一、1. 6　5　3　6　6　9

2. 7　6

3. 1、2、3 或 4

4. 4　3

5. △

6. 4　4　6

【点拨】求再买的本数，列式是 5 × 6 − 24 = 6（本）。

荣德基好卷

关注微信公众号“教辅资料站”获取更多学习资料

二、53 ÷ 9 = 5……8　　68 ÷ 8 = 8……4

$$\begin{array}{r} 5 \\ 9\overline{)53} \\ 45 \\ \hline 8 \end{array}$$

$$\begin{array}{r} 8 \\ 8\overline{)68} \\ 64 \\ \hline 4 \end{array}$$

37 ÷ 6 = 6……1　　60 ÷ 7 = 8……4

$$\begin{array}{r} 6 \\ 6\overline{)37} \\ 36 \\ \hline 1 \end{array}$$

$$\begin{array}{r} 8 \\ 7\overline{)60} \\ 56 \\ \hline 4 \end{array}$$

三、4 × 3 + 2 = 14（个）

14 ÷ 4 = 3（盘）……2（个）

14 ÷ 3 = 4（个）……2（个）

四、1.

	可以摆几个图形	还剩几根小棒	算式
	6	2	20 ÷ 3 = 6(个)……2(根)
	5	0	20 ÷ 4 = 5(个)
	3	2	20 ÷ 6 = 3(个)……2(根)

2.（1）

苹果数/个	9	18	27	36	45	54
盘数/盘	1	2	3	4	5	6

（2）55 ÷ 9 = 6（盘）……1（个）

答：最多可以装 6 盘，还剩 1 个。

3.（1）60 ÷ 8 = 7（块）…… 4（元）

答：她最多可以买 7 块巧克力，还剩 4 元钱。

（2）8 − 4 = 4（元）

答：还差 4 元钱。

4.（1）50 ÷ 8 = 6（张）……2（元）

50 ÷ 6 = 8（张）……2（元）

答：50 元钱最多能买 6 张碰碰车票，用这些钱最多能买 8 张小火车票。

（2）30 + 1 = 31（人）

31 ÷ 4 = 7（条）……3（人）

7 + 1 = 8（条）

答：至少需要租 8 条小船。

周测培优卷 3

方向与位置能力检测卷

一、1. 北　南　西

2. 南　东　东南　东北

3. 南　西　东

4. 南　北

5. 北

6. 西　北

7. 东

二、1. ×

2. √

3. ×

4. √

三、1.

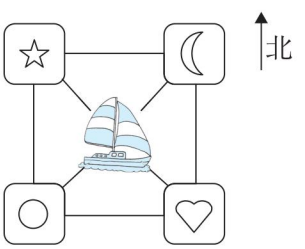

2.

9	6	7
4	1	2
5	3	8



四、1.（1）北　西

（2）东　南

（3）大象

2.

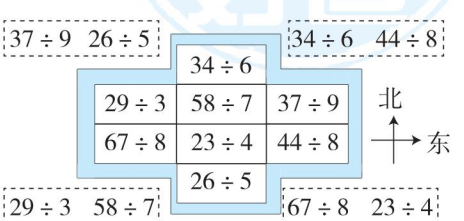

荣德基好卷

关注微信公众号“教辅资料站”获取更多学习资料

3. （1）东　南

（2）东南　东北

（3）西北　西南

周测培优卷 4

大数的读、写、意义的理解能力检测卷

一、2104　二千一百零四

1204　一千二百零四

10000　一万

二、1. 6 个十　6 个千

2. 4　840　408

3. 2016　2000

4. 6800　5400

5. 7058

6. （1）6000　7000

（2）2100　2120

（3）500　600

三、1. ②

2. ①

3. ③

4. ③

四、1.

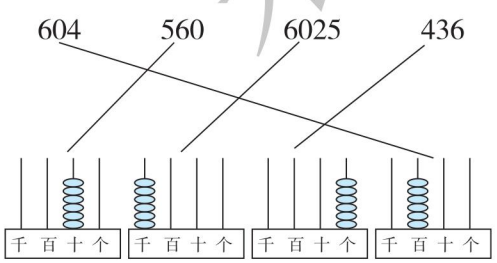

2. 5100

3.

图例	总数	做一做
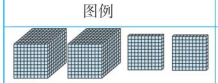	2203	
	3125	3125 = 3000 + 100 + 20 + 5
 10张	1000	买一部手机需要1200元，还需要再加 2 张  。

周测培优卷 5

大数的比较和估计能力检测卷

一、1. 十　一百　10　10

2. （答案不唯一）9　7　9　3

3. >　=　>　<

4. 1699 元 < 1880 元 < 2888 元 < 3499 元

5. （1）380　381

（2）6370　6390

6. 5500　6000　6500　7500　8000

二、1. ②

2. ③

3. ③

4. ③

三、1. 100　300

2. 100

3. 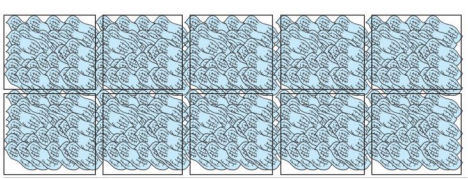

300

4. 8500　9000



5. 

周测培优卷 6

测量能力检测卷

一、千米　米　千米　米　分米　千米

二、20　8000　90　6　7　3

三、<　<　<　=　>　<

荣德基好卷

关注微信公众号“教辅资料站”获取更多学习资料

四、1. 2　2　2

2.

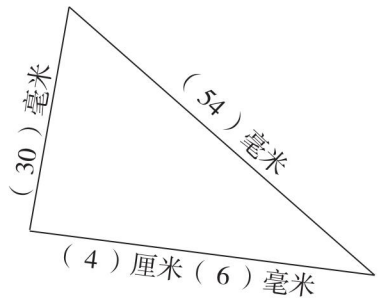



3.（1）5厘米5毫米

（2）39毫米

五、1. 60 + 40 = 100（千米）

答：这条公路长 100 千米。

2. 20 毫米 = 2 厘米

18 − 2 = 16（厘米）

答：还剩 16 厘米。

【点拨】问题是求还剩多少厘米，所以先把 20 毫米转化成 2 厘米。

周测培优卷 7

加与减的计算能力检测卷

一、1. 相同数位　个位

2. 加　减

3. 三　四

4. 623　351

5. ＞　＜　＜　＝

6. 236 + 666 ＞ 400 + 333 ＞ 917 − 356 ＞ 245 + 255

二、1. 330　520　920　2000

190　400　320　1400

2. 624+167=791

$$\begin{array}{r} 624 \\ +\ 167 \\ \hline 791 \end{array}$$

△435+385=820

$$\begin{array}{r} 435 \\ +\ 385 \\ \hline 820 \end{array}$$

验算：$\begin{array}{r} 820 \\ -\ 435 \\ \hline 385 \end{array}$

217−168=49

$$\begin{array}{r} 217 \\ -\ 168 \\ \hline 49 \end{array}$$

732−89=643

$$\begin{array}{r} 732 \\ -\ 89 \\ \hline 643 \end{array}$$

1000−402=598

$$\begin{array}{r} 1000 \\ -\ 402 \\ \hline 598 \end{array}$$

△802−349=453

$$\begin{array}{r} 802 \\ -\ 349 \\ \hline 453 \end{array}$$

验算：$\begin{array}{r} 453 \\ +\ 349 \\ \hline 802 \end{array}$

3.



4.

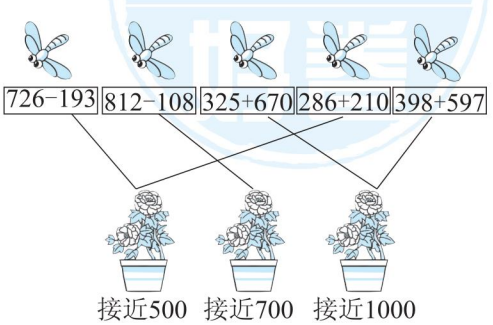

荣德基好卷

关注微信公众号“教辅资料站”获取更多学习资料

三、1. 900 − 185 = 715（米）

715 > 568　715 − 568 = 147（米）

答：王阿姨跑得多，多 147 米。

2. 145 − 58 = 87（筐）

87 + 145 = 232（筐）

答：这一天一共卖了 232 筐。

【点拨】“水果店有 350 筐苹果”是多余条件。

周测培优卷 8

加与减的应用能力检测卷

一、1. 400 − 286　114

2. 576 + 245　821

3. 100　【点拨】因为减数 + 差 = 被减数，所以 200 相当于两个被减数的和。

4. 200　213

5. 上届有多少幅作品获奖

425 + 49 = 474（幅）

二、58+429=487

$$\begin{array}{r} 58 \\ +\ 429 \\ \hline 487 \end{array}$$

△600−119=481

$$\begin{array}{r} 600 \\ -\ 119 \\ \hline 481 \end{array}$$

验算：

$$\begin{array}{r} 481 \\ +\ 119 \\ \hline 600 \end{array}$$

三、1. 歌舞类选手比语言类选手多多少名？

355 − 297 = 58（名）

答：歌舞类选手比语言类选手多 58 名。（答案不唯一）

2. （1）397 + 126 = 523（个）

523 + 397 = 920（个）

答：今天实际接了 920 个订单。

（2）920 − 880 = 40（个）

答：实际比预计多接了 40 个订单。

3. （1）把 379 看成 380，把 305 看成 310。

380 + 310 = 690（人）　690 < 700

答：能全部进入馆内。

（2）379 + 305 = 684（人）

答：去参观博物馆的学生一共有 684 人。

4. （1）小明：800 − 758 = 42（米）

小乐：800 − 569 = 231（米）

答：小明和小乐分别离终点 42 米、231 米。

（2）758 − 509 = 249（米）

答：小华落后小明 249 米。

周测培优卷 9

认识图形能力检测卷

一、1. 2　直

2. 正方形

3. 2　4

4. 所画边的长短　角的两边张开的大小

5.

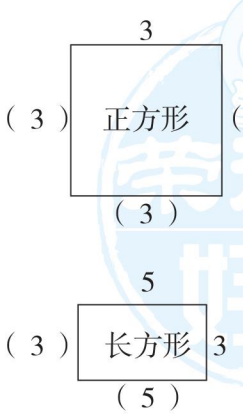

6. 平行四边形

7. 3　4　3

荣德基好卷

关注微信公众号“教辅资料站”获取更多学习资料

二、× × × √

三、1. ②

2. ③

3. ①

四、3 2 4

五、1. 长方形

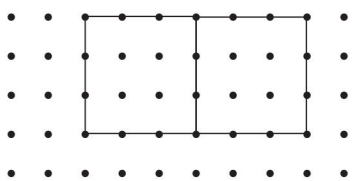

（拼出的图形不唯一）

2. （1）7

（2）6

六、6 3 5 8 3 1 2

周测培优卷 10

时、分、秒的理解能力检测卷

一、1. 1 1 60 1 时

2. 15 20

3. 240 3 80 2 70 1 40

4. （1）秒

（2）分

（3）时

（4）分

二、1. ②

2. ①

3. ②

4. ②

三、1. 6 时 30 分 3 时 20 分 2 时 40 分

6：30 3：20 2：40

2. （1）×

（2）√

（3）×

3. 25 85

四、1. 4 时 45 分 + 15 分 = 5 时

答：它下午 5 时到达。

2. 7 时 50 分 − 20 分 = 7 时 30 分

答：他最晚应在 7 时 30 分从家出发。

3. 9 时 45 分 − 8 时 30 分 = 1 时 15 分

答：演出用了 1 时 15 分。

4. 2 分 50 秒 > 2 分 16 秒

2 分 50 秒 − 2 分 16 秒 = 34 秒

答：小雨跑得快，快 34 秒。

周测培优卷 11

调查与记录能力检测卷

一、1. 8 9 5 6 13 7

2. 48

3. 体育

二、1. 7 4 5 4

2. 3 2 1 3

3. 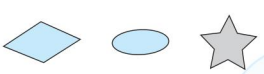

三、1. 18 13 17 20

2. 4 3

3. 冰红茶

四、1. 18

2. 漫画书 儿童文学

由上表记录可知各类书的借阅情况。

3. 多买一些漫画书。（答案不唯一，合理即可）

荣德基好卷

关注微信公众号“教辅资料站”获取更多学习资料

期末复习冲刺卷

专项能力提升卷 1　计算的挑战

一、1. 845　411

2. 275 + 368　643 − 275　643 − 368

3. 1000

4. （1）812

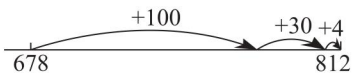

（2）245

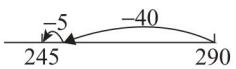

5. △　□

6. 5　8　3

二、1. 80　260　420　5　543　740　8

8……2

2. 58 ÷ 6=9……4

```
   9
6 ) 5 8
  5 4
  ---
    4
```

76 ÷ 9=8……4

```
   8
9 ) 7 6
  7 2
  ---
    4
```

45 ÷ 6=7……3

```
   7
6 ) 4 5
  4 2
  ---
    3
```

843+175=1018

```
  8 4 3
+ 1 7 5
-------
1 0 1 8
```

973−347=626

```
  9 7 3
- 3 4 7
-------
  6 2 6
```

△905−735=170

```
  9 0 5
- 7 3 5
-------
  1 7 0
```

验算：

```
  1 7 0
+ 7 3 5
-------
  9 0 5
```

三、1. 900 − 779 = 121（元）

答：现在买洗衣机比原来便宜 121 元。

2. 32 + 25 = 57（人）

57 ÷ 9 = 6（条）……3（人）

6 + 1 = 7（条）

答：至少要租 7 条船。

3. 650 + 485 = 1135（元）

650 − 485 = 165（元）

答：买一套桌椅共需 1135 元，一张办公桌比一把椅子贵 165 元。

4.

轮船	波音 777 飞机	高铁
3000 人	392 人	600 人

专项能力提升卷 2　单位的转化

一、1. 分　分米　秒　毫米

2. 10　分米

3. 4　5

4. 2　【点拨】注意单位的不同。

二、1. ×

2. ×

3. √

三、1. ③

2. ④

3. ③

四、1.

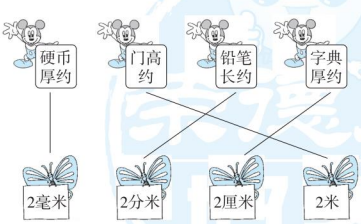

2. <　>　<　=　=　>

五、1.

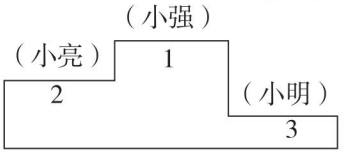

荣德基好卷

关注微信公众号“教辅资料站”获取更多学习资料

2．（1）11 时 －8 时 30 分 =2 时 30 分

答：上午马戏团开放 2 时 30 分。

【点拨】被减数的“分”不够减，就从“时”借 1 时当 60 分后再减。

（2）4 时 30 分 －2 时 =2 时 30 分

答：下午马戏团开放 2 时 30 分。

专项能力提升卷 3　统计与概率

一、1．39　2．春　冬

3．最好安排在春季。

二、1．

			
正一	正下	丅	正正

（记录方法不唯一）

2．

器材				
个数	6	8	4	10

3．2　4

三、1．篮　排

2．28 +26 +14 +17 =85（个）

答：四种球一共卖了 85 个。

四、1．一级：14 天　二级：11 天

三级：5 天

2．一级。

3．11 >5　11 －5 =6（天）

答：空气质量为二级的天数多，多 6 天。

五、1．33　2．王刚　李松

3．王刚有可能当上班长，因为他的票数最多。

专项能力提升卷 4　熟练理解万以内的数

一、1．1500　120

2．8239　8241　5999　6001　918　920

3．9050

4．7541　1045

5．8　6　2

二、8070　6398　3587　2073　908　496

三、800　200　150　4000　700　6100

四、1．489 <500　495 <500

500 +500 =1000（个）

1000 <1100

489 +495 <1100

答：做这些彩蛋给超市不够。

2．（1）

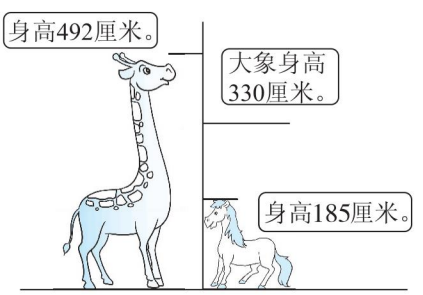

（2）长颈鹿的身高比大象的身高高多少厘米？

492 －330 =162（厘米）

答：长颈鹿的身高比大象的身高高 162 厘米。

（答案不唯一）

3．（1）456 －289 =167（千克）

答：小货车比大货车少运 167 千克。

（2）456 +289 =745（千克）

答：它们一共运了 745 千克。

关注微信公众号“教辅资料站”获取更多学习资料

（3）1000 − 745 = 255（千克）

答：这两辆货车再运 255 千克就达到 1000 千克了。

专项能力提升卷 5　简单的空间想象能力

一、1. 东　南　西　北　东北　西北　东南　西南

2. 东　北　**【点拨】**面向太阳时，前面是东，右面是南，左面是北，后面是西。

3. 东北

4. 东　西

5. 长　宽

6.

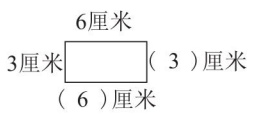

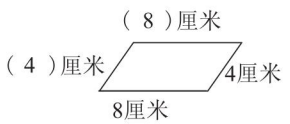

7. 1　2　大　小

二、①③⑦　②⑤⑧　④⑥

三、1. √

2. √

3. √

4. ×

5. √

四、1.



画出一个平行四边形

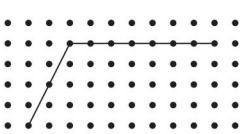

画出一个钝角　（答案不唯一）

2. ①②⑤⑥

五、1. 东

2. 南

3. 东北

4. 老虎　狮子

5. 南　北

六、画图如下：

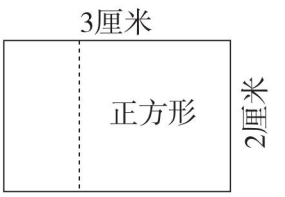

正方形的边长是 2 厘米。

专项能力提升卷 6　有余数的除法应用题强化练习

一、1. 9　7　**【点拨】**余数要比除数小，余数是 6，除数最小是 7。

2. 5

3. ○

4. 60　29

5.（1）3　5　2

（2）5　3　2

二、1. 45 ÷ 8 = 5（天）……5（个）

5 + 1 = 6（天）

答：至少需要 6 天才能完成。

【点拨】剩下的 5 个零件还需要做 1 天，因此至少需要 5 + 1 = 6（天）。

2. 27 ÷ 4 = 6（杯）……3（元）

答：最多可以买 6 杯果汁。

3. 26 ÷ 3 = 8（组）……2（颗）

蓝：8 × 2 + 2 = 18（颗）

荣德基好卷

关注微信公众号“教辅资料站”获取更多学习资料

黄：8×1=8（颗）

答：蓝色珠子用了18颗，黄色珠子用了8颗。

【点拨】 3颗珠子为1组，其中有2颗蓝色珠子，1颗黄色珠子。

4. （1）23÷3=7（条）……2（人）

7+1=8（条）

答：至少要租8条小船。

（2）23÷5=4（条）……3（人）

4+1=5（条）

答：至少要租5条大船。

（3）23-3=20（人）

20÷5=4（条）

答：还可以租1条小船和4条大船。

（答案不唯一）

5. 34÷5=6（个）……4（颗）

22÷3=7（个）……1（颗）

19÷2=9（个）……1（颗）

6<7<9

答：这些糖果最多可以组装成6个这样的礼盒。

专项能力提升卷7　加与减的应用题综合练习

一、

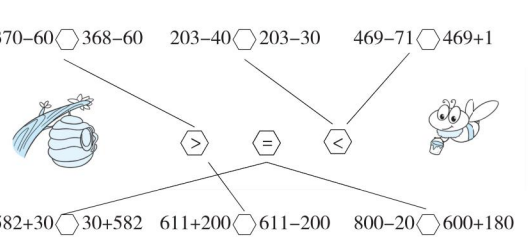

二、1. ②　2. ①　3. ③

三、1. （1）207+159=366（元）

答：一共要花366元。

（2）400-366=34（元）

34=34

答：对。

2. 男队员有多少人？

304-209=95（人）

答：男队员有95人。

（答案不唯一）

3. （1）不够

（2）267+380=647（个）

答：今天一共接了647个订单。

4. （1）把128看成130。

300-130=170（元）

170>128

答：剩下的钱还够再买一把同样的椅子。

（2）300-128=172（元）

答：剩下172元。

5. （1）178+135=313（元）

答：买一件儿童上衣和一条裤子共花313元。

（2）600-362=238（元）

答：买一套西装后还剩下238元。

（3）买一件儿童上衣和一条裙子共花多少元？

178+216=394（元）

答：买一件儿童上衣和一条裙子共花394元。

（答案不唯一）

荣德基好卷

关注微信公众号“教辅资料站”获取更多学习资料