《好卷》=《大卷》+《小卷》：不是所有的试卷都叫“好卷”，期末提分才是硬道理

同步测评用

小卷 周测培优卷

除法的计算能力检测卷 …… 01
除法的应用能力检测卷 …… 03
方向与位置能力检测卷 …… 05
大数的读、写、意义的理解能力检测卷 … 07
大数的比较和估计能力检测卷 …… 09
测量能力检测卷 …… 11
加与减的计算能力检测卷 …… 13
加与减的应用能力检测卷 …… 15
认识图形能力检测卷 …… 17
时、分、秒的理解能力检测卷 …… 19
调查与记录能力检测卷 …… 21

大卷 单元检测卷

第一单元 跟踪检测卷 …… 1
第二单元 跟踪检测卷 …… 3
第三单元 跟踪检测卷 …… 5
第四单元 跟踪检测卷 …… 7
期中 检测卷 …… 9
第五单元 跟踪检测卷 …… 11
第六单元 跟踪检测卷 …… 13
第七单元 跟踪检测卷 …… 15
第八单元 跟踪检测卷 …… 17

期末冲刺用

小卷 专项能力提升卷

计算的挑战 …… 23
单位的转化 …… 25
统计与概率 …… 27
熟练理解万以内的数 …… 29
简单的空间想象能力 …… 31
有余数的除法应用题强化练习 …… 33
加与减的应用题综合练习 …… 35

大卷 模块过关卷

计算与时间 …… 19
几何、测量、调查 …… 21
实际应用 …… 23
常考易错题综合 …… 25

大卷 仿真模拟卷

期末测试卷 …… 27
无锡市名校期末测试卷 …… 29
浙江省名校期末测试卷 …… 31
黄冈市名校期末测试卷 …… 33

大卷答案 见大卷35~38页　小卷答案 见小卷37~46页



荣德基好卷
微信公众号
教辅资料站
关注微信公众号“教辅资料站”获取更多学习资料

荣德基 好卷

2年级 数学 下 BS版

第五单元 跟踪检测卷

加与减

时间：60分钟　满分：100分

题号	一	二	三	四	五	六	总分
得分							

姓名 学号 班级 学校

密 封 线

豆点提示：请不要在密封线内答题哦！

一、画一画，填一填。（每题2分，共6分）

123+278=□

123

564−373=□

564

704−447=□

704

二、填一填。（每空1分，共21分）

1. 计算退位减法时，哪一位不够减，应从（　　）位退1当（　　）。
2. 计算进位加法时，哪一位上的数相加满十，就要向前一位进（　　）。
3. 最大的三位数与最小的两位数的和是（　　），差是（　　）。
4. 一套茶具189元，妈妈买2套这样的茶具至少需要准备（　　）张  。
5. 389＋（　　）＝756　　（　　）－478＝110　　708－（　　）＝512
6. 书店原来有918本书，第一天卖出179本，第二天卖出266本，这两天一共卖出（　　）本，还剩（　　）本。
7. 在58的后面添上一个0，得到的数比原数多（　　），得到的数与原数的和是（　　）。
8. 一批水果，先卖出一半，还剩265千克，这批水果原有（　　）千克。
9. 如果坐火车从北京到上海，有高铁、动车和特快列车可以选择。

高铁	二等座	553元
动车	二等座	293元
特快列车	硬座	178元

（　　）的票价最高，（　　）的票价最低，相差（　　）元。

10. 在○里填上“＞”“＜”或“＝”。

238＋472 ○ 356＋434　　658－99 ○ 663－104

400－167 ○ 602－369　　805＋85 ○ 885－85

三、辨一辨。（对的在括号里画“√”，错的画“×”。每题1分，共5分）

1. 计算万以内的加减法时，相同数位要对齐。（　　）
2. 两个三位数相加，和一定是三位数。（　　）
3. 妈妈如果买电风扇和微波炉，可以享受“购物满500元返50元现金”的优惠活动。（　　）

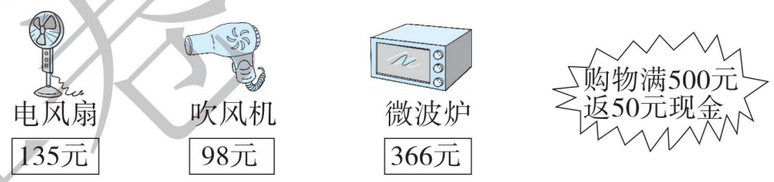

4. 比203少159的数是44。（　　）
5. 两数之和一定大于这两数之差。（　　）

四、选一选。（把正确答案的序号填在括号里。每题1分，共5分）

1. 两个两位数相加，和是（　　）。

①两位数　　②三位数　　③两位数或三位数

2. （　　）加上649得1000。

① 351　　② 461　　③ 361

3. 买右图的两件物品，下列说法正确的是（　　）。



① 300元够

② 400元够

③ 500元肯定够，还多14元

4. 下列哪个算式的和最接近600？（　　）

① 260＋280　　② 260＋345　　③ 260＋380

5. 玩具店推出“满200元减100元”的暑期优惠活动。小强带了200元，可以买（　　）。

① 
299元

② 
458元

③ 
339元

荣德基好卷 微信公众号 教辅资料站

关注微信公众号“教辅资料站”获取更多学习资料

五、计算挑战。（共 26 分）

1. 看谁算得又对又快。（每题 1 分，共 8 分）

300 + 200 =　　270 + 230 =　　1000 − 460 =　　900 − 240 =

550 + 350 =　　880 − 120 =　　90 + 900 =　　560 − 500 =

2. 列竖式计算，带★的要验算。（每题 3 分，共 18 分）

514 − 158 =　　259 + 528 =　　★367 + 288 =

76 + 623 =　　701 − 293 =　　★800 − 299 =

六、走进生活，解决问题。（共 37 分）

1. 围棋是一种智力游戏，起源于中国。棋子分为黑、白两色，均为扁圆形。一副标准围棋有 181 枚黑棋子，180 枚白棋子。一副标准围棋共有多少枚棋子？（5 分）

2. 二、三月份一共进了多少箱苹果？（5 分）



3. 公园在市政府东面 420 米，少年宫在市政府西面 185 米。



（1）在图中标出公园和少年宫的大致位置。（2 分）

（2）算一算，从公园到少年宫要走多少米？（4 分）

4. （1）小强比小朵多跳 47 下，小强跳了多少下？（4 分）



（2）小朵距最高纪录还差多少下？（4 分）

5.



共有 600 本字帖，每人分一本。

三年级	332 人
四年级	314 人

（1）估一估，字帖够不够分？（5 分）

（2）算一算，三、四年级共有多少人？（4 分）

（3）字帖本数和学生人数相差多少？（4 分）

荣德基好卷
自己说说
老师点评
家长点评
密
封
线
微信公众号
教辅资料站
关注微信公众号“教辅资料站”获取更多学习资料

荣德基 好卷

2年级 数学 下 BS版

第六单元 跟踪检测卷

认识图形

时间：60分钟　满分：100分

题号	一	二	三	四	五	六	七	总分
得分								

姓名 学号 班级 学校 密 封 线

豆点提示：请不要在密封线内答题哦！

一、填一填。（每空1分，共26分）

1. 一个角有（　　）个顶点，（　　）条边。

2. 请写出角的各部分名称。

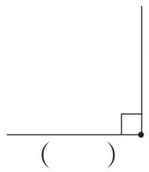

左边的角是（　　）角，比直角小的角是（　　）角，（　　）角比直角大。

3. 红领巾有（　　）个角，其中钝角有（　　）个，锐角有（　　）个。

4. 鲜艳的中国国旗有（　　）个角，都是（　　）角。

5. 下面的图形中各有几个角？



有（　）个角　有（　　）个角　有（　　）个角　有（　　）个角

6. 长方形的对边（　　），正方形的四条边都（　　），它们的四个角都是（　　）角。

7. 用3个边长是3厘米的正方形拼成一个长方形，这个长方形的长是（　　）厘米，宽是（　　）厘米。

8. 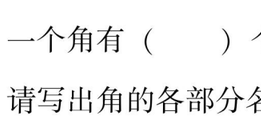与这两个时刻的时针与分针所组成的角都是（　　）角。

9. 一张圆形纸片上（　　）角（填“有”或“没有”），把这张纸片先上下对折，再左右对折，打开后会有（　　）个（　　）角。

二、辨一辨。（对的在括号里画“√”，错的画“×”。每题1分，共5分）

1. 任何物体的表面都有角。（　　）

2. 黑板上的直角比三角尺上的直角大。（　　）

3. 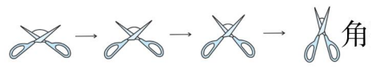角变大了。（　　）

4. 把一个长方形框架拉成一个平行四边形框架，边的长短不变，角的大小有变化。（　　）

5. 至少三个完全一样的正方形可以拼成一个长方形。（　　）

三、选一选。（把正确答案的序号填在括号里。每题2分，共10分）

1. 下列有关锐角、直角和钝角的大小，排列正确的是（　　）。

①锐角＞直角＞钝角　②锐角＜直角＜钝角　③钝角＞锐角＞直角

2. 下图中有四个直角的是（　　）。

①　②　③

3. 用放大镜观察右面的角，这个角（　　）。

①变大　②变小　③不变

4. 9时半，分针和时针所形成的角是（　　）。

①钝角　②直角　③锐角

5. 至少需要（　　）个右边的长方形才可以拼成一个正方形。



①2　②3　③4

四、慧眼识图。（共15分）

1. 下面的图形中，哪些是角？在角下面的括号里画“√”。（5分）

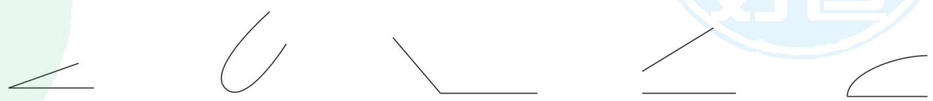

（　）　（　）　（　）　（　）　（　）

2. 锐角画“√”，直角画“×”，钝角画“○”。（5分）

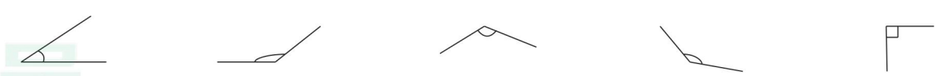

（　）　（　）　（　）　（　）　（　）

荣德基好卷 教辅资料站 微信公众号
关注微信公众号“教辅资料站”获取更多学习资料

3. 在平行四边形下面的括号里画“√”。(5 分)

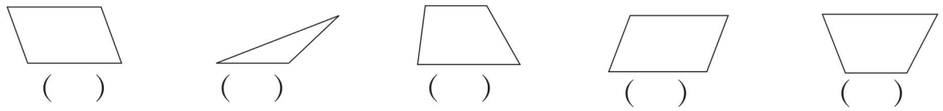

( ) ( ) ( ) ( ) ( )

五、趣味分类。(共 12 分)

1. 帮忙找家。(连一连)(6 分)





2. 图形的分类。(填序号)(6 分)

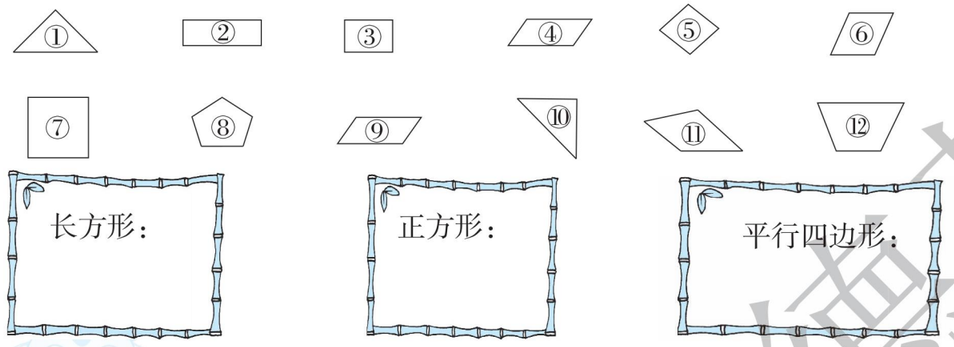

六、动手操作，开发大脑。(第 3 题 4 分，其余每题 6 分，共 16 分)

1. (1) 画出一个更大的锐角。(2) 画出一个更小的钝角。(3) 画一个直角。

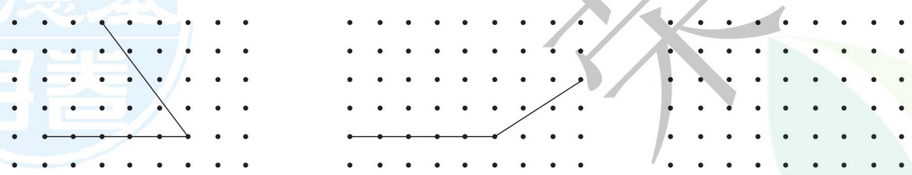

2. (1) 接着画出一个长方形。(2) 接着画出一个正方形。(3) 接着画出一个平行四边形。

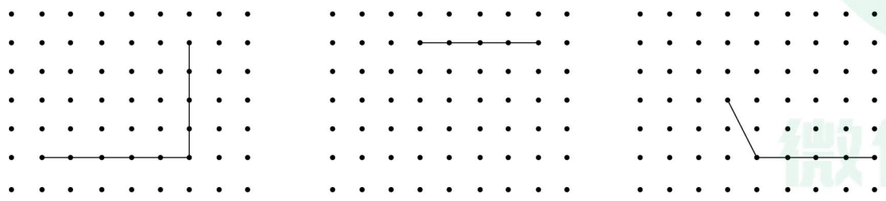

3. 加上一条线，使下面各图形分别变成两个一样的图形。



七、按要求解决问题。(共 16 分)

1. 想一想，在正确答案的后面画“√”。(5 分)

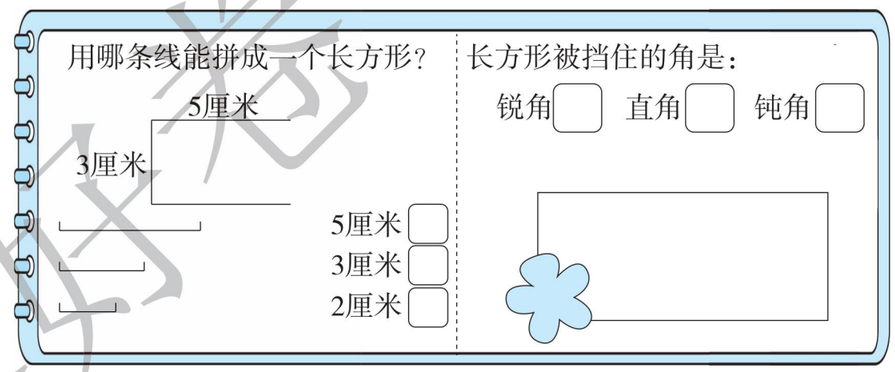

2. 在括号里填上合适的数。(单位：厘米)(每空 1 分，共 5 分)



3. 数一数。(每空 1.5 分，共 6 分)

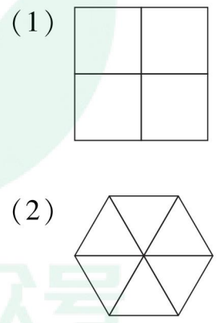

(1) 有 ( ) 个正方形，

有 ( ) 个长方形。

(2) 有 ( ) 个三角形，

有 ( ) 个平行四边形。

关注微信公众号“教辅资料站”获取更多学习资料

姓名 学号 班级 学校

密 封 线

荣德基 好卷

2年级 数学 下 BS版

第七单元 跟踪检测卷

时、分、秒

时间：60分钟　满分：100分

题号	一	二	三	四	五	六	总分
得分							

一、填一填。（每空 1 分，共 30 分）

1. 在体育运动中，秒表用来记录以（　　）为单位的时间。
2. 秒针走 1 圈，就是走 60 小格，也就是（　　）秒，这时分针走（　　）小格，也就是（　　）分，所以（　　）分 =（　　）秒。
3. 在括号里填上合适的时间单位。



一集动画片约播放15（　　）



做一次深呼吸约用5（　　）



中秋文艺晚会约2（　　）



蒸一锅米饭约25（　　）



写名字用18（　　）



火箭发射倒计时10（　　）

4. 看图回答问题。



小明朗读一首诗大约要30秒。



小红做完一道数学题需要5分。



一场足球赛大约需要1时30分。

（1）小明朗读四首诗大约要（　　）秒，合（　　）分。

（2）小红做完一道数学题的时间，分针要走（　　）大格，秒针要走（　　）圈。

（3）一场足球赛的时间约是（　　）分。

5. 80 秒 =（　　）分（　　）秒　　1 分 15 秒 =（　　）秒
90 分 =（　　）时（　　）分　　1 时 25 分 =（　　）分

6. 在◯里填上“ > ”“ < ”或“ = ”。

60 秒◯6 分　　180 秒◯3 时　　1 时 20 分◯80 分

8 时◯500 分　　5 时◯30 分　　1 分 35 秒◯85 秒

7. 一节课 40 分，课间休息 10 分，再加上（　　）分就是 1 时。

二、辨一辨。（对的在括号里画“√”，错的画“×”。每题 1 分，共 5 分）

1. 秒针在钟面上走一圈是 1 时。（　　）
2. 钟面上走得最快的是时针，走得最慢的是秒针。（　　）
3. 做一遍眼保健操的时间多于 1 分。（　　）
4. 读一篇 200 字的文章大约要用 1 时。（　　）
5. 分针走 1 大格，秒针走 1 圈。（　　）

三、选一选。（把正确答案的序号填在括号里。每题 2 分，共 10 分）

1. 钟面上（　　）走得最快。
①时针　　②分针　　③秒针
2. 明明吃一顿饭约用（　　）分。
① 1　　② 15　　③ 150



3. 小学生 1 分能跑（　　）米。
① 3　　② 150　　③ 800
4. 一架客机本应该 10：25 到达，现在晚点 15 分，（　　）能到达。
① 10：10　　② 10：40　　③ 11：40
5. 100 米游泳比赛中，（　　）游得最快。



小刚用了 90 秒



小林用了 1 分 15 秒



小超用了 110 秒

①小刚　　②小林　　③小超

是点提示：
请不要在密封线内答题哦！

荣德基好卷
微信公众号
教辅资料站
关注微信公众号“教辅资料站”获取更多学习资料

四、我会按要求解决。（共 14 分）

1. 看钟面，写时间。（每题 2 分，共 8 分）



____ 时 ____ 分

：



____ 时 ____ 分

：



____ 时 ____ 分

：



____ 时 ____ 分

：

2. 选一选。（在合适答案后面的□里面画“◯”）（每题 2 分，共 6 分）

看电影大约需要



2分 □

2时 □

唱一首歌大约需要



4分 □

4秒 □

朗读一首古诗大约需要



40分 □

40秒 □

五、算一算，写一写。（共 7 分）

1.



（1）经过了（　　）分。（1 分）

（2）周六下午这段时间你在做什么？（2 分）

2.

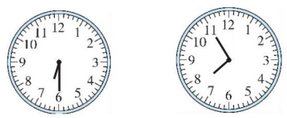

（1）经过了（　　）时（　　）分。（2 分）

（2）周六下午这段时间你在做什么？（2 分）

六、走进生活，解决问题。（共 34 分）

1. 电影 5：50 开演，芳芳 5：20 就到了。芳芳提前多少分到达电影院的？（5 分）

2. 某市准备举行“中国梦”书法比赛。爱好书法的强强每日坚持练字。先计算强强练字结束的时间，再在下图中画出练完字后的时间。（5 分）





强强



3. 吴老师上午 8：00 上班，11：30 下班，下午 1：30 上班，4：00 下班。吴老师一天上班多长时间？（5 分）

4. 下面是四位同学参加 100 米跑的成绩表。

王芳	刘丽	周强	徐明
21 秒	17 秒	24 秒	16 秒

（1）谁跑得最快？谁跑得最慢？（4 分）

（2）最快的比最慢的少用多少秒？（5 分）

5. 如图是游泳馆的开放时间。



（1）游泳馆上午开放多长时间？下午开放多长时间？（6 分）

（2）中午休息多长时间？（4 分）

荣德基好卷
微信公众号
教辅资料站
关注微信公众号“教辅资料站”获取更多学习资料

自己说说

老师点评

家长点评

密 封 线

荣德基 好卷

2年级 数学 下 BS版

第八单元 跟踪检测卷

调查与记录

时间：60分钟　满分：100分

题号	一	二	三	四	五	六	七	八	总分
得分									

姓名　学号　班级　学校

密　封　线

豆点提示：请不要在密封线内答题哦！

一、实验小学二（1）班竞选班长投票情况如下。（共8分）

果果　√√√√√√

贝贝　☆☆☆☆☆☆☆☆☆☆☆☆☆☆☆

乐乐　○○○○○○○○○○○○○○○○○

阳阳　△△△△△△△△△△

根据整理的结果填一填。

1. 果果得票（　　）张，贝贝得票（　　）张，乐乐得票（　　）张，阳阳得票（　　）张。（4分）
2. （　　）得到的票数最少，（　　）得到的票数最多。（2分）
3. （　　）可能被选为班长，因为（　　）。（2分）

二、数水果。（共13分）

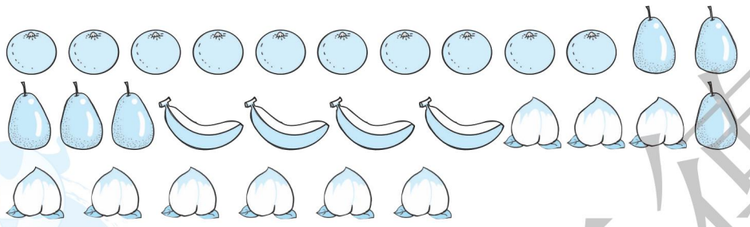

1. 用你喜欢的方法记录各水果的个数。



2. 数一数，各有多少个？（4分）

水果				
个数				

3. 比多（　　）个，比少（　　）个。（2分）
4. （　　）的数量最多，（　　）的数量最少。（2分）
5. 一共有（　　）个水果。（1分）

三、数图形。（共16分）



1. 画“正”字记录各图形的个数。（5分）

长方形：_____　三角形：_____　平行四边形：_____

圆：_____　正方形：_____

2. 数一数，各有多少个？（5分）

长方形	三角形	平行四边形	圆	正方形
（　　）个	（　　）个	（　　）个	（　　）个	（　　）个

3. （　　）的数量最多，（　　）的数量最少，（　　）和（　　）的数量一样多。（4分）
4. 三角形比圆多（　　）个，平行四边形比长方形少（　　）个。（2分）

四、下面是二年级数学选拔赛的成绩情况。（共8分）

40～49	50～59	60～69	70～79	80～89	90～99	100
一	丅	正一	正 正	正 正 正	正	丅

1. （　　）分数段人数最多，（　　）分数段人数最少。（2分）
2. 得100分的有（　　）人，不满60分的有（　　）人，得100分和不满60分的共有（　　）人。（3分）
3. 成绩优秀的有（　　）人，（90分及以上为优秀），没达到优秀的人数有（　　）人，相差（　　）人。（3分）

五、下面是某十字路口记录的过往车辆的情况。（共13分）

轿车	正 正 正 正 正
公共汽车	正 正 正 正
卡车	正 丨
出租车	正 正 丨丨丨

荣德基好卷　微信公众号教辅资料站
关注微信公众号“教辅资料站”获取更多学习资料

1. 根据记录的结果填一填。

轿车有（　　）辆，公共汽车有（　　）辆，卡车有(　　)辆，出租车有（　　）辆，一共有（　　）辆车。(5 分)

2. (　　) 的辆数最多，(　　) 的辆数最少。(2 分)

3. 卡车比轿车少（　　）辆，出租车比卡车多（　　）辆。(2 分)

4. 请你预测一下，如果再驶来 1 辆车，最有可能是（　　）。(1 分)

5. 你还能提出一个数学问题并解答吗？(3 分)

六、二（5）班通过投票来选班长，4 名候选人的得票情况如下。(每人只能投 1 票)（共 13 分）

圆圆	琪琪	浩浩	聪聪
正正正	√√√√√ √√	○○○○○○ ○○○○○○	☆☆☆☆ ☆☆☆☆

1. 把统计结果填在下表中。(4 分)

圆圆	琪琪	浩浩	聪聪

2. 二（5）班参加投票的有（　　）人，（　　）的票数最多，是（　　）票。(　　) 的票数最少，是（　　）票。(5 分)

3. (　　) 最有可能当选为班长。(1 分)

4. 选举那天李萍和王乐没上学，如果他们也参加投票，结果会怎样？(3 分)

七、水果批发市场连续 5 天卖出苹果和橘子的数量情况如下。(共 17 分)

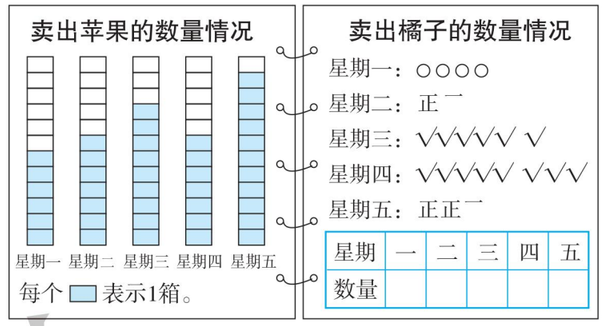

完成下列各题：

1. 填写卖出橘子的数量情况的统计表。(5 分)

2. 星期（　　）和星期（　　）卖出的苹果数量同样多，星期(　　)卖出的苹果和橘子数量同样多。(3 分)

3. 星期（　　）卖出的苹果数量最多，星期（　　）卖出的橘子数量最多。星期（　　）卖出的苹果数量最少，星期（　　）卖出的橘子数量最少。(4 分)

4. 5 天一共卖出（　　）箱苹果，(　　) 箱橘子。(2 分)

5. 根据以上统计情况，你能简单预测一下双休日的水果销售情况吗？(3 分)

八、根据下面的算式回答问题。(共 12 分)

1. 算一算。(每题 0.5 分，共 6 分)

32 ÷ 7=	16 ÷ 6=	44 ÷ 8=	58 ÷ 9=
57 ÷ 7=	50 ÷ 6=	18 ÷ 4=	33 ÷ 5=
24 ÷ 5=	39 ÷ 6=	22 ÷ 5=	20 ÷ 6=

2. 用画“正”的方法统计余数出现的次数。(4 分)

余数	1	2	3	4
次数				

3. 余数为(　　) 出现的次数最多，余数为(　　) 出现的次数最少。(2 分)

荣德基好卷
微信公众号 教辅资料站
关注微信公众号“教辅资料站”获取更多学习资料
自己说说
老师点评
家长点评
密 封 线

荣德基 好卷

2年级 数学 下 BS版

期末复习冲刺卷 模块过关卷（一）

计算与时间

时间：60分钟　满分：100分

题号	一	二	三	四	五	六	总分
得分							

一、填一填。（每空1分，共23分）

1. 中国和巴基斯坦交界处的乔戈里峰海拔8611米，是世界上第二高峰。8611读作（　　），它是（　　）位数，由8个（　　）、6个（　　）、（　　）个十和（　　）个一组成。

2. 用竖式计算加减法时，要注意（　　）数位要对齐，从（　　）位算起。

3. 在□÷7=□……□中，余数最大是（　　）。

4. 726比一个数小245，这个数是（　　），这个数比396大（　　）。

5. 喜羊羊、美羊羊、沸羊羊玩写数字的游戏，从1开始写，按顺序依次往后写，请你猜一猜数字“28”是（　　）写的。

6. 在□里填上合适的数。

400+□=690　　□−280=200

□+70=320　　360−□=140

7. 在○里填上“>”“<”或“=”。

860+40 ○ 40+860　　800−160 ○ 840−150

650+80 ○ 650−80　　720+20 ○ 720+200

8. 认一认，写一写。



：



：



：

二、辨一辨。（对的在括号里画“√”，错的画“×”。每题1分，共5分）

1. 8075=8000+70+5。（　　）
2. 105分=1时5分。（　　）
3. 四位数减三位数的差一定还是四位数。（　　）
4. 37块糖至少拿出2块，才能平均分给7个小朋友。（　　）
5. 37颗☆，平均奖给5个小朋友，每个小朋友得6颗，还剩7颗。算式是37÷5=6（颗）……7（颗）。（　　）

三、选一选。（把正确答案的序号填在括号里。每题2分，共10分）

1. 下面（　　）中的“8”表示8个百。

① 480　② 8060　③ 2850　④ 608

2. 用0、0、1、8、9中的四个数字组成一个最接近9000并且只读一个零的数是（　　）。

① 8901　② 9010　③ 9001

3. （　　）过20分是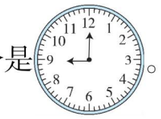。

① 9时20分　② 8时40分　③ 9时半

4.

上图表示的算式是（　　）。

① 165+156=321　② 321−165=156　③ 321−156=165

5. 一个盘子里能放6块蛋糕，妈妈做了50块蛋糕，至少需要准备（　　）个这样的盘子。

① 9　② 7　③ 8

四、计算挑战。（共20分）

1. 看谁算得又对又快。（每题1分，共8分）

80−25=　　2000+6000=　　63÷9=　　480+500=

50+420=　　650−310=　　42÷7=　　1700+300=

2. 用竖式计算。（带*的要验算）（每题2分，共12分）

30÷7=　　80÷9=　　815−164=

姓名　学号　班级　学校

密　封　线

豆点提示：请不要在密封线内答题哦！

荣德基好卷　微信公众号　教辅资料站

关注微信公众号“教辅资料站”获取更多学习资料

365 + 478 =　　＊59 + 745 =　　＊1000 − 198 =

五、选一选。（在合适的答案后面的□里画“√”）（每题2分，共6分）

煎一个鸡蛋大约需要



2分 □
2时 □

做一张贺卡大约需要



30分 □
30秒 □

把脚抬起来大约需要



1分 □
1秒 □

六、走进生活，解决问题。（共36分）

1. （1）小龙有45根小棒，最多能搭几个下面的图案？（4分）

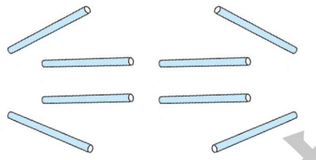

（2）将66个苹果全部放在盘子里，至少需要几个这样的盘子？（4分）



2. 学校买回400张彩色纸，同学们做纸花用去183张，做小旗用去129张。还剩多少张彩色纸？（4分）

3. （1）标出松树高度的大概位置。（2分）
（2）请你提出一个数学问题，并解答。（5分）



4. 龙门小学上周植树118棵。



（1）本周植树多少棵？（4分）　　（2）两周一共植树多少棵？（4分）

5. 下面是某水文站记录的当地一条河流的水深情况。

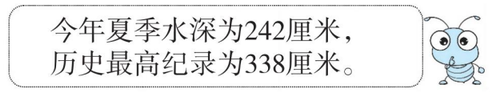

（1）今年夏季水深距历史最高纪录还差多少厘米？（4分）

（2）这条河流今年冬季水深要比夏季水深低108厘米，冬季水深为多少厘米？（5分）

荣德基好卷
微信公众号
教辅资料站
关注微信公众号“教辅资料站”获取更多学习资料

自己说说　老师点评　家长点评　密　封　线

荣德基 好卷

2年级 数学 下 BS版

期末复习冲刺卷 模块过关卷（二）

几何、测量、调查

时间：60分钟　满分：100分

题号	一	二	三	四	五	六	总分
得分							

姓名 学号 班级 学校

密 封 线

一、填一填。（每空1分，共25分）

1. 东与（　　）相对，南与（　　）相对。

2. 王阿姨开车向北面行驶，她的左手边是（　　）面，后面是（　　）面。

3. 下面滑梯中有很多角，请你写出图中的角各是什么角。

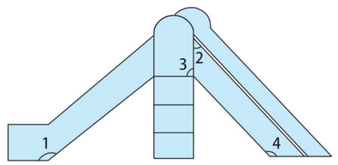

∠1是（　　）角
∠2是（　　）角
∠3是（　　）角
∠4是（　　）角

4. 运动场的跑道一圈是400米，两圈是（　　）米，再加上（　　）米正好是1千米。

5. 长方形和正方形都有（　　）个角，每个角都是（　　）角。

6. 

用这四根小棒，可以拼成（　　）形，也可以拼成（　　）形。

7. 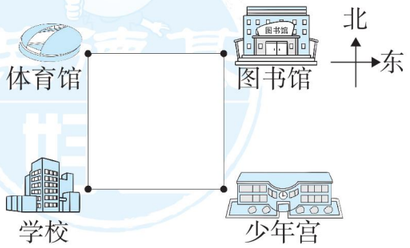

体育馆在学校的（　　）面，
图书馆在学校的（　　）面，
图书馆在少年宫的（　　）面。

8. 

把这个正方形按如图平均分成3个长方形，每个长方形的长是（　　）厘米，宽是（　　）厘米。

9. 30分米 =（　　）毫米　　500毫米 =（　　）厘米
6分米 =（　　）厘米　　（　　）米 =800分米
3000米 =（　　）千米　　（　　）厘米 =9米

二、辨一辨。（对的在括号里画“√”，错的画“×”。每题2分，共10分）

1. 果果的房间只有一扇窗，朝向北，一到中午阳光就洒满屋子。（　　）
2. 二（3）班教室长约10千米。（　　）
3. 一个角的边越长，这个角就越大。（　　）
4. 钟面上9时整和3时整，时针和分针都成直角。（　　）
5. 飞机每时飞行800米。（　　）

三、选一选。（把正确答案的序号填在括号里。每题2分，共10分）

1. 学校在游泳馆的东北方向，游泳馆在学校的（　　）方向。
①东南　　②西南　　③西北

2. 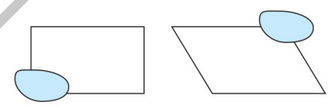

长方形被挡住的角是（　　），平行四边形被挡住的角是（　　）。
①锐角　　②直角　　③钝角

3.（　　）一定能拼成一个钝角。
① 两个锐角　　② 一个锐角和一个直角　③ 两个直角

4. 一个长方形长是8分米，宽是6分米，如果（　　），就成为一个正方形。
①长增加2分米　　②宽增加2分米　　③宽减少2分米

5. 小红暑假要去国外旅行，想买一个文件袋装自己的护照，选（　　）最合适。

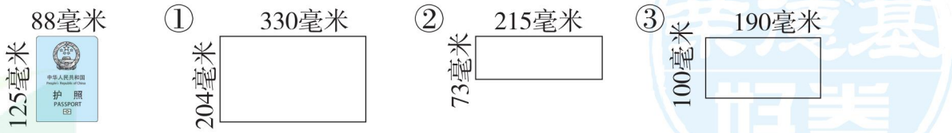

四、动手操作，开发大脑。（共12分）

1. 在点子图上接着画。（每题3分，共6分）



画出一个平行四边形　　画出一个角

豆点提示：请不要在密封线内答题哦！

荣德基好卷

微信公众号 教辅资料站

关注微信公众号“教辅资料站”获取更多学习资料

2. 用一条直直的线按要求分一分。（每题 2 分，共 6 分）



分成两个三角形

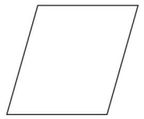

分成一个三角形和一个四边形

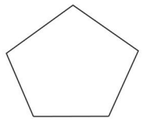

分成两个四边形

五、观察思考，填一填。（共 16 分）

1. 铅笔长（　　）毫米。（3 分）

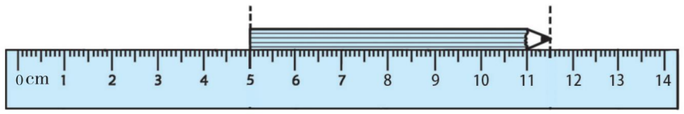

2. 请把锐角的序号填在花坛西南面的□里，把直角的序号填在花坛东面的□里，把钝角的序号填在花坛西北面的□里。（6 分）

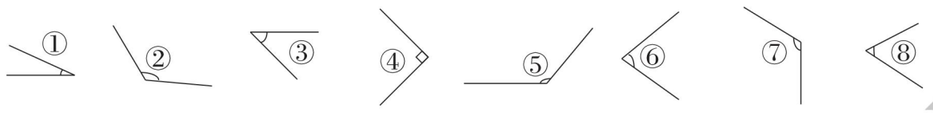

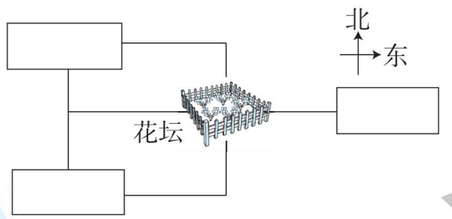

3. 新新体育用品专卖店为了解球类的销售量，做了下面的调查记录。（7 分）

足球	排球	篮球	橄榄球
正 正 正	正 正 正	正 正 正	正 正 正
正 正	正	正 正 正	

足球卖了（　　）个，排球卖了（　　）个，篮球卖了（　　）个，橄榄球卖了（　　）个，一共卖了（　　）个。（　　）卖得最多，（　　）卖得最少。

六、走进生活，解决问题。（共 27 分）

1. 根据描述填一填。

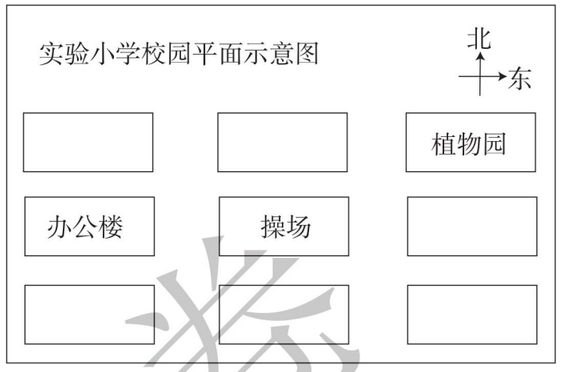

（1）校门在操场的南面。（2 分）

（2）食堂在操场的西北面。（2 分）

（3）教学楼在操场的北面。（2 分）

（4）花园在操场的西南面。（2 分）

（5）图书馆在操场的东面。（2 分）

（6）实验楼在操场的东南面。（2 分）

2.

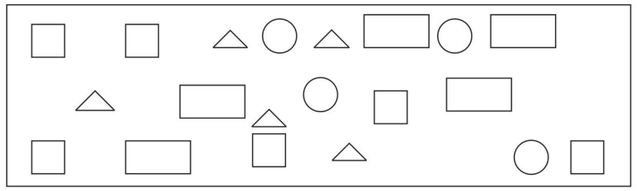

（1）把记录的方式和个数填在下面的表格中。（8 分）

图形	□	□	△	○
记录的方式				
个数				

（2）一共有（　　）个图形。（1 分）

（3）（　　）最多，（　　）最少，（　　）与（　　）同样多。（4 分）

（4）□比△多（　　）个，比○多（　　）个。（2 分）

荣德基好书
微信公众号
教辅资料站
关注微信公众号“教辅资料站”获取更多学习资料
自己说说
老师点评
家长点评
密 封 线

荣德基 好卷

2年级 数学 下 BS版

期末复习冲刺卷 模块过关卷（三）

实际应用

时间：60分钟　满分：100分

题号	一	二	三	四	五	总分
得分						

一、填一填。（第5题3分，其余每题2分，共29分）

1. 每瓶有100片钙片，100瓶有（　　）片钙片，（　　）瓶有1000片钙片。



2. 有31条小鱼，每个鱼缸里放6条，还剩1条，有（　　）个鱼缸。
3. G89次列车，由北京西站开往成都东站，全程约1874（　　），运行时间约8（　　）。
4. 学校午餐每人配发1瓶酸奶，二（2）班有37人，每盒酸奶有8瓶，领餐员要领（　　）盒加（　　）瓶酸奶。
5. 24个，每8个装1盒，需要（　　）个盒子。如果平均装在5个盒子里，每盒装（　　）个，还剩（　　）个。
6. 一本书有60页，龙一鸣每天看7页，至少需要（　　）天看完。
7. 玩1次过山车需要8元，30元钱最多可以玩（　　）次。
8. 5□63＞5854，□里可以填的数是（　　）。
9. 小明家这个月的电费是123元，电费比水费少39元。小明家这个月的水、电费一共是（　　）元。
10. 把一卷长5米的彩带，每6分米剪1段，最多可以剪这样的（　　）段。
11. 到校时间是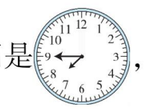，聪聪上学路上要走15分，算一算，聪聪（　　）从家出发。
12. 在一张长10厘米、宽6厘米的长方形纸上剪一个最大的正方形，正方形的边长是（　　）厘米。
13. 按图中的方式从左往右穿珠子，第32个是（　　），第45个是（　　）。（填“蓝珠”或“白珠”）

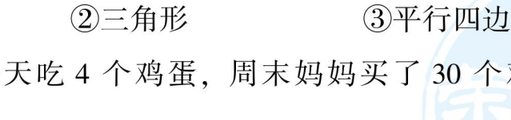

14. 学校每节课35分，课间休息10分。上午8时上第一节课，第一节下课是（　　）时（　　）分，第二节上课是（　　）时（　　）分。

二、辨一辨。（对的在括号里画“√”，错的画“×”。每题1分，共5分）

1. 把72分成8份，每份是9。（　　）
2. 35里面有5个7，也可以说有7个5。（　　）
3. 6分＝600秒。（　　）
4. 和西北相对的方向是东南。（　　）
5. 一张长方形纸，剪去一个角后，只能剩下三个角。（　　）

三、选一选。（把正确答案的序号填在括号里。每题2分，共10分）

1. 28÷□＝□……4中，除数是一位数，除数最大是（　　）。

①6　　②8　　③9

2. 奇奇从12：15开始午睡，55分后起床，他起床时是（　　）。

①下午1时10分　　②下午1时　　③下午1时5分

3. 把一张正方形纸对折再对折，不可能折成（　　）。

①长方形　　②三角形　　③平行四边形

4. 小明一家四口每天吃4个鸡蛋，周末妈妈买了30个鸡蛋，最多够吃（　　）天。

①6　　②7　　③8

5. 小鹿家到小狗家有300米，小兔家到小鹿家大约有（　　）米。



①300　　②500　　③1000

姓名　学号　班级　学校

密　封　线



荣德基好卷
微信公众号
教辅资料站
关注微信公众号“教辅资料站”获取更多学习资料

四、计算挑战。（共 17 分）

1. 看谁算得又对又快。（每题 1 分，共 8 分）

680 − 500 =	340 + 80 =	350 − 70 =	27 ÷ 9 =
143 + 300 =	340 + 600 =	32 ÷ 8 =	56 ÷ 7 =

2. 用竖式计算。（带 * 的要验算）（每题 3 分，共 9 分）

20 ÷ 6 =　　* 159 + 648 =　　* 512 − 293 =

五、走进生活，解决问题。（共 39 分）

1. “枫尚园”小区地下停车场周五晚上停车 245 辆，周六上午开出 129 辆，开进 187 辆，这时，车库显示“车位已满”。该小区地下停车场有多少个停车位？（6 分）

2. 学校组织同学们到鸟巢儿童体验中心进行社会实践活动。小芳在消防局体验馆门前排队，她排在第 25 个。小芳第几次才能进去体验？（5 分）



3. 用 4 个边长为 1 厘米的正方形拼成一个长方形，这个长方形的长是多少厘米？宽是多少厘米？若拼成一个大正方形，这个大正方形的边长是多少厘米？（请画出拼成后的图形）（6 分）

4. （1）每个盘子放 2 朵萝卜雕花作为装饰，17 朵萝卜雕花最多可以放几个盘子？（4 分）



（2）一张纸能剪出 6 个苹果模型，剪 45 个苹果模型至少需要几张纸？（4 分）



5. （1）亮亮从学校经过医院到图书馆，要走多少米？（4 分）

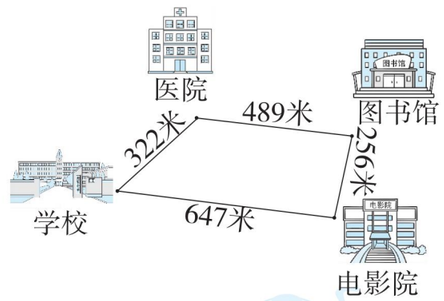

（2）亮亮从学校去图书馆，走哪条路比较近？近多少米？（4 分）

6. 小兰班上同学每月看课外书的情况如下表。

5 本及 5 本以上	3 ~ 4 本	1 ~ 2 本	没有
√√√√√√√	正正正下	○○○○○○○○○	× ×

（1）每月看 5 本及 5 本以上课外书的有（　　）人，每月看 3 ~ 4 本课外书的有（　　）人，每月看 1 ~ 2 本课外书的有（　　）人，每月没有看课外书的有（　　）人。（4 分）

（2）每月看课外书（　　）的人数最多。（2 分）

关注微信公众号“教辅资料站”获取更多学习资料

姓名 学号 班级 学校

密 封 线

亮点提示：
请不要在密封线内答题哦！

荣德基 好卷

2年级 数学 下 BS版

期末复习冲刺卷 模块过关卷（四）

常考易错题综合

时间：60分钟　满分：100分

题号	一	二	三	四	五	总分
得分						

一、填一填。（每空1分，共27分）

1. 看图读数、写数。

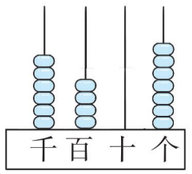

读作：（　　）　　写作：（　　）

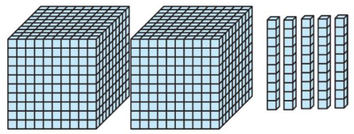

读作：（　　）　　写作：（　　）

2. 在（　　）里填上合适的单位。

小明家到学校有2（　　），小明一步大约走4（　　）。

淘气每天上学都要经过一座长约350（　　）的大桥，他一般要花10（　　）才能走过桥。

3. 找规律，填一填。

（1）2200，2000，_____，_____，1400。

（2）4850，4950，_____，5150，_____。

4. □里最大能填几？

□×8＜45　　7×□＜56　　684＞□92　　32□3＜3274

5. 分针从数字“12”到“1”经过了（　　）分。

红灯亮了2分才变成了绿灯，2分就是（　　）秒。

6. （　　）÷5＝8……□，□里最大可以填（　　），这时被除数是（　　）。

7. 用6、3、0、7中的三个数字组成三位数，最大的数是（　　），最小的数是（　　）。

8. 1米1米地数，数（　　）次就是1千米；1毫米1毫米地数，数10次就是1（　　）。

9. 用35根相同的小棒去摆正方形（如右图），最多可以摆出（　　）个这样的正方形。



10. 36位教师要去外校参观，他们租限坐4人的小汽车（　　）辆和限坐7人的面包车（　　）辆（每辆车均不含司机），座位刚好每人1个，不多也不少。（两种车都租）

二、辨一辨。（对的在括号里画“√”，错的画“×”。每题1分，共5分）

1. 黑板上的直角比数学书封面上的直角大一些。（　　）
2. 在有余数的除法里，如果余数比除数大，说明商小了。（　　）
3. 学校在图书馆的东北方向，那么图书馆在学校的东南方向。（　　）
4. 100个2分的硬币叠在一起，它的高度约为1米。（　　）
5. 四位数一定比三位数大。（　　）

三、计算挑战。（共27分）

1. 看谁算得又对又快。（每题0.5分，共8分）

4×8＝	36÷6＝	360＋480＝	670－430＝
57÷7＝	0×5＝	865－405＝	340＋406＝
7×9＝	20÷4＝	74＋490＝	803－520＝
44÷9＝	8×6＝	1000－230＝	370＋530＝

2. 列竖式计算。（带＊的要验算）（每题3分，共9分）

38÷8＝　　＊534＋276＝　　＊602－206＝

3. 写出钟面上的时间，并算出经过的时间。（每空2分，共10分）

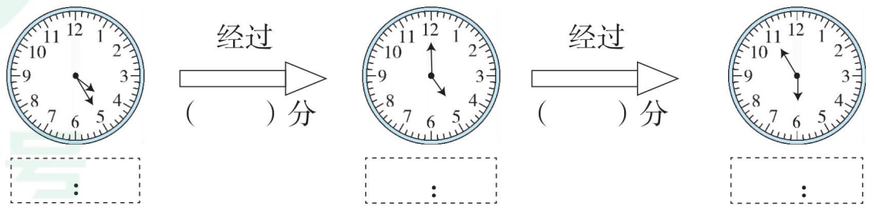

荣德基好卷
微信公众号 教辅资料站
关注微信公众号“教辅资料站”获取更多学习资料

四、动手操作，开发大脑。（共 13 分）

1. 画一条长 4 cm 5 mm 的线。（2 分）

2. 接着往下画。（每空 1 分，共 4 分）

（1）☆ □ △ △ ☆ □ △ △ ☆ □ △ △ ☆ _____ _____

（2）○ ○ ◇ ○ ○ ◇ ○ ○ ◇ _____ _____

3. 在点子图上接着往下画。（每题 2 分，共 4 分）

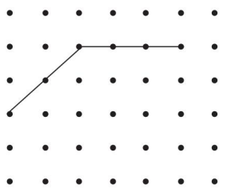

画一个平行四边形

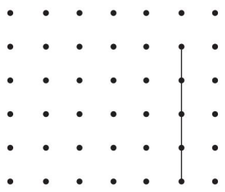

画一个正方形

4. 数一数，填一填。（每空 1 分，共 3 分）

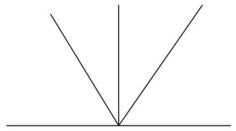

左图中，有（　　）个锐角，

有（　　）个直角，

有（　　）个钝角。

五、走进生活，解决问题。（共 28 分）

1. 亮亮排在第 21 个，第几次才能进去呢？（3 分）



2. 超市运进 820 千克大米，第一天卖了 280 千克，第二天卖了 370 千克。两天共卖了多少千克？（3 分）

3. 下山比上山少行多少米？（4 分）



4. 方向与路线。

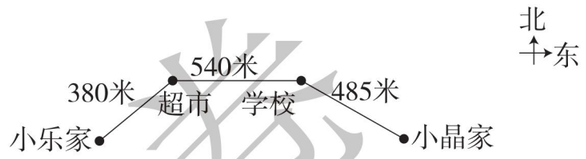

（1）小乐从家向（　　）方向走（　　）米到达超市，再向正（　　）方向走（　　）米到达学校。（4 分）

（2）小晶从家到学校，只需向（　　）方向走（　　）米就到了。她从家到学校一个来回要走（　　）米。（3 分）

（3）小乐从家到超市比从学校到超市近多少米？（3 分）

5. 下面是二（2）班同学最喜欢的水果统计情况。

			
正正正丅	正正下		正丌

（1）最喜欢苹果的同学有（　　）人。（1 分）

（2）最喜欢苹果和最喜欢橘子的一共有多少人？（4 分）

（3）最喜欢梨的同学是最喜欢芒果的 3 倍，最喜欢芒果的有几人？（3 分）

关注微信公众号“教辅资料站”获取更多学习资料

荣德基 好卷

2年级 数学 下 BS版

期末复习冲刺卷

期末测试卷

时间：60分钟　满分：100分

题号	一	二	三	四	五	六	总分
得分							

一、填一填，画一画。（第10题1分，第13题5分，其余每空1分，共38分）

1. 南京长江大桥铁路桥长六千七百七十二米，横线上的数写作（　　）。

2. □里最大能填几？

53 □ < 536　　67 > □ × 7　　8 × □ < 58

3. 在（　　）里填上合适的单位。

茶杯高约1（　　）。　　1元硬币大约厚2（　　）。

飞机每时飞行约800（　　）。　　刷牙大约需要3（　　）。

4. 9763是（　　）位数，其中数字“7”在（　　）位上，表示（　　）。

5. 找规律填数。

7040，7045，（　　），7055，（　　）。

6. 2千米 =（　　）米　30毫米 =（　　）厘米　90秒 =（　　）分（　　）秒

7. 钟面上的时针、分针正好形成了一个直角，这时钟面上可能是（　　）时。

8. 把2303，3203，3023，3230，2330这几个数按要求排列。

（　　）>（　　）>（　　）>（　　）>（　　）

9. 在算式（　　）÷7 = 4……（　　）中，余数最大可以填（　　），这时被除数是（　　）。

10. 淘气家在邮局西面320米，请用△在图中标出淘气家的大致位置。

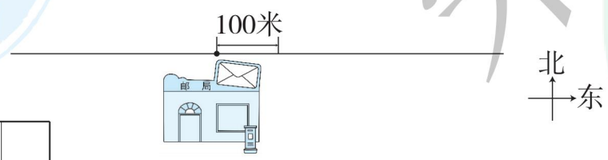

11. （1）



小正方形里可以放100粒小米，整个大正方形里可以放（　　）粒小米。

（2）



照（1）中这样放，这个长方形里大约能放（　　）粒小米。

12. 写出钟面上的时间，并算出经过的时间。



13. 把序号写在相应的圈内。

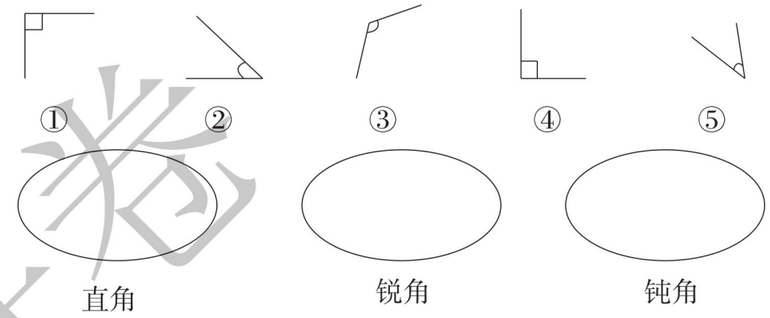

二、选一选。（把正确答案的序号填在括号里。每题2分，共8分）

1. 用算式表示7032，可以是（　　）。

① 7000 + 300 + 2　　② 7000 + 30 + 2　　③ 7 + 0 + 3 + 2

2. 右图笔的长度是（　　）。

① 53毫米　　② 53厘米

③ 53分米

3. 报告厅里有500个座位，安排（　　）年级学生一起听报告比较合适。

一年级	252人
二年级	308人
三年级	246人

① 一、二

② 二、三

③ 一、三

4. 有52人用餐，1张桌子最多坐8人，至少需要（　　）张这样的桌子。

① 6　　② 7　　③ 8

三、计算挑战。（共19分）

1. 看谁算得又对又快。（每题1分，共10分）

36 ÷ 9 =	28 + 720 =	48 ÷ 6 =	490 − 230 =	54 ÷ 6 =
6 × 7 =	83 − 32 =	16 + 42 =	614 + 80 =	20 ÷ 5 =

2. 用竖式计算。（带▲的要验算）（每题3分，共9分）

74 ÷ 8 =　　264 + 38 =　　▲600 − 127 =

姓名　学号　班级　学校

密　封　线

豆点提示：请不要在密封线内答题哦！

荣德基好卷 教辅资料站 微信公众号

关注微信公众号“教辅资料站”获取更多学习资料

四、辨认方向。（共 4 分）

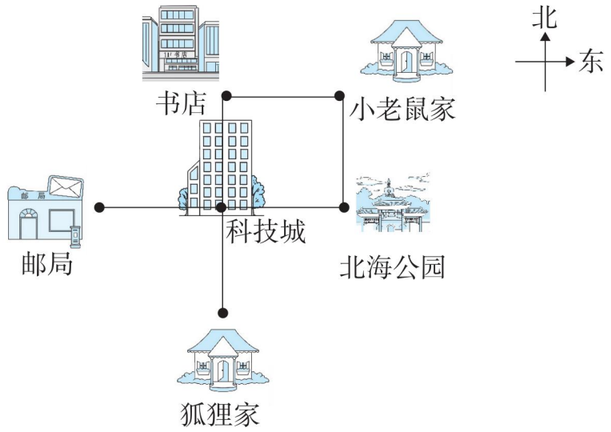

1. 小老鼠家在书店的_____面，在北海公园的_____面。（2 分）
2. 邮局在科技城的_____面，北海公园在狐狸家的_____面。（2 分）

五、走进生活，解决问题。（共 19 分）

1. 小太阳书店有下列图书。

种类	数量/本
故事书	257
科技书	139
连环画	76

（1）故事书和连环画一共有多少本？（4 分）

（2）科技书比故事书少多少本？（4 分）

（3）每本连环画 9 元，小红有 60 元钱，她最多可以买几本连环画？（4 分）

2. 小明步行了 587 米，比小虎少 174 米。小虎步行了多少米？（4 分）

3. 乐乐花了 24 元，买了 6 瓶饮料。小芳买了 1 瓶饮料，花了 6 元，谁买的饮料便宜？（3 分）

六、统计。（共 12 分）

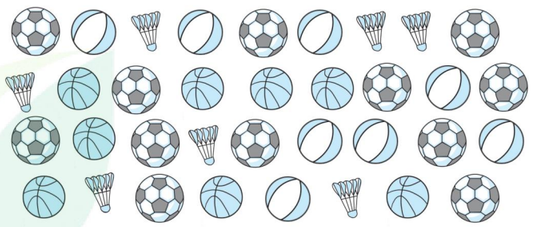



1. 用自己喜欢的方法，在表格中记录四种球的个数。（4 分）
2.  有（　　）个， 有（　　）个， 有（　　）个， 有（　　）个。（4 分）
3. （　　）最多，（　　）最少。（　　）和（　　）同样多。（4 分）

荣德基好卷
微信公众号 教辅资料站
关注微信公众号“教辅资料站”获取更多学习资料
自己说说
老师点评
家长点评
密 封 线

荣德基 好卷

2年级 数学 下 BS版

期末复习冲刺卷

无锡市名校期末测试卷

时间：60分钟　满分：100分

题号	一	二	三	四	五	六	总分
得分							

一、填一填。（每空1分，共26分）

1. 由3个千、1个十和6个一组成的数是（　　），这个数读作（　　）。
2. 与5600相邻的两个数是（　　）和（　　）。
3. （　　）比256多78，307比245多（　　）。
4. △÷6＝4……□，□里最大可以填（　　），这时△代表的数是（　　）。
5. 当你面向西边时，你的左边是（　　）面。
6. （1）东东7：40到校，11：40放学，上午在校（　　）时。
   （2）2分15秒＝（　　）秒　　95分＝（　　）时（　　）分
7. 找规律填一填。
   （1）8238，8138，（　　），（　　），7838。
   （2）200，225，（　　），275，（　　）。
8. 妈妈买9条毛巾花了63元，平均1条毛巾（　　）元，小明回家用皮尺量了量，1条毛巾大约长60（　　）。
9. 下面的□里最小能填几？
   □×7＞50　　28＜□×6　　7□65＞7456
10. 在一个长12厘米、宽8厘米的长方形中画一个最大的正方形，这个正方形的边长是（　　）。
11. 在（　　）里填上合适的单位。



铅笔长约2（　　）



小明每天午睡1（　　）



数学书厚约6（　　）

二、辨一辨。（对的在括号里画“√”，错的画“×”。每题1分，共5分）

1. 当分针走一圈时，时针走了一大格。（　　）
2. 做同样的20道口算题，笑笑用了50秒，淘气用了65秒，做题速度快的是淘气。（　　）
3. 最大的三位数比最大的两位数多100。（　　）
4. 7539和372中的“7”表示的意义相同。（　　）
5. 一个数的最高位是千位，这个数是一个四位数。（　　）

三、选一选。（把正确答案的序号填在括号里。每题2分，共10分）

1. 商和余数相等的算式是（　　）。
   ① 25÷3　　② 34÷7　　③ 18÷5
2. ○▲◇○▲◇○▲◇……，一直摆下去，第22个图案是（　　）。
   ①○　　②▲　　③◇
3. 249＋378的结果最接近（　　）。
   ① 700　　② 500　　③ 600
4. 有37个桃子，第（　　）种装法，还剩下2个桃子。
   ① 5个装一袋　　② 4个装一袋　　③ 6个装一袋
5. 11：20，分针与时针所形成的角是（　　）。
   ①锐角　　②直角　　③钝角

四、计算挑战。（共22分）

1. 直接写出得数。（每题1分，共10分）

1000－350＝	230＋90＝	202－3＝	6×8＝	72÷8＝
800－90＝	3500－800＝	460－70＝	4×7＝	64÷9＝

2. 列竖式计算。（带☆的要验算）（每题3分，共12分）

☆389＋68＝　　☆802－568＝　　73÷9＝　　57÷7＝

姓名　学号　班级　学校

密　封　线

豆点提示：请不要在密封线内答题哦！

荣德基好卷
微信公众号 教辅资料站
关注微信公众号“教辅资料站”获取更多学习资料

五、动手操作，开发大脑。（共 5 分）

1. 量一量，注意单位名称。（3 分）

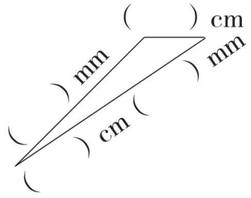

2. 接着画出一个平行四边形。（2 分）

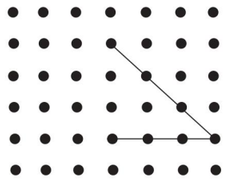

六、走进生活，解决问题。（共 32 分）

1. 有 50 个苹果，平均分给 9 个小朋友，每个小朋友分到几个苹果？还剩几个苹果？（4 分）

2. 二（1）班有 45 位同学坐车去游玩，每辆车限坐 6 人（不含司机），至少要安排几辆这样的车？（4 分）



3. 一本故事书，乐乐每天看 5 页，看了 9 天，还剩 67 页，这本故事书共有多少页？（4 分）



4. 某店上午卖出电视机 323 台，下午比上午少卖出 56 台，这一天共卖出多少台电视机？（5 分）

5. 一根 1 米长的彩带，先剪去 35 厘米，又剪去 5 分米，这根彩带还剩下多少厘米？（5 分）

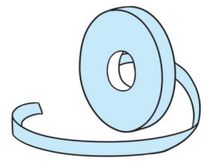

6. 下面是幸福乡五个村的人口数，根据表格里的数据回答问题。

村名	小枣村	林河村	阳光村	爱民村	向华村
人口数/人	1687	2216	962	1654	478

（1）请按人口数给上面五个村排排队（填村名）：（5 分）

（　　）>（　　）>（　　）>（　　）>（　　）

（2）小枣村在公园的东北面，阳光村在小枣村的南面，林河村在公园的西北面，爱民村在向华村的西南面，请你根据上面的描述，补充下图。（5 分）

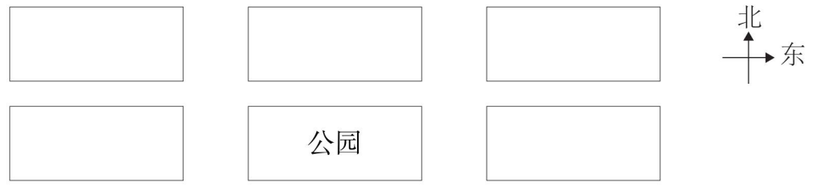

关注微信公众号“教辅资料站”获取更多学习资料

荣德基 好卷 2年级 数学 下 BS版

期末复习冲刺卷

浙江省名校期末测试卷

时间：60分钟　满分：100分

题号	一	二	三	四	五	总分
得分						

姓名　学号　班级　学校

密　封　线

昱点提示：请不要在密封线内答题哦！

一、填一填。（第9题3分，第15题4分，其余每空1分，共46分）

1. 三千一百五十八写作（　　）；2014读作（　　）。
2. 8527这个数的最高位是（　　）位，十位上的数字是（　　），表示（　　）个（　　）。
3. 10000里面有（　　）个一千；（　　）个一百是一千。
4. 与最大的四位数相邻的两个数分别是（　　）和（　　）。
5. 按规律写数。
   （1）62，69，（　　），83，（　　）。
   （2）6266，6166，（　　），（　　），5866。
6. 80厘米＝（　　）分米　　7千米＝（　　）米　　1分10秒＝（　　）秒
7. □里最大能填几？

   1765＞1□68　　□×3＜25　　40＞7×□　　2□7＜256
8. 用两个5、两个0组成四位数，其中最小的四位数是（　　），只读一个零的四位数是（　　），一个零也不读的四位数是（　　）。
9. 在○里填上“＞”“＜”或“＝”。

   2009○2090　　10 m○10 dm　　8个十○80个一

   36÷6○24÷4　　10 km○1000 m　　锐角○钝角
10. 图中共有（　　）个长方形。
11. 右图中有（　　）个锐角，（　　）个钝角，（　　）个直角。
12. 从45中连续减6，最多能减（　　）次，还余（　　）。
13. ■÷7＝*A*……★，★最大可以是（　　）。
14. 在（　　）里填上适当的单位。
    小明的身高大约是13（　　），他有一支铅笔长约13（　　），他家离学校约1300（　　）。
15. 按时间由长到短排一排。
    70分　　2时10分　　3时　　1时50分
16. 3路公交线路图。

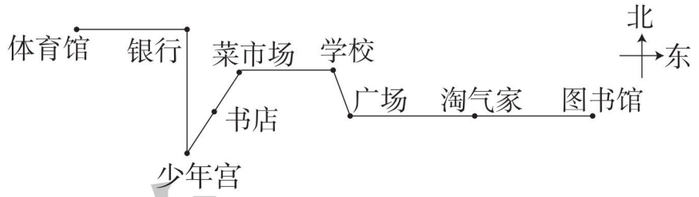

（1）广场在淘气家的（　　）面，在学校的（　　）面。
（2）从学校出发，向（　　）面行驶1站到菜市场，再向（　　）面行驶2站到少年宫。
（3）淘气乘车坐2站就到自己家了，他是从（　　）上车的。

二、辨一辨。（对的在括号里画“√”，错的画“×”。每题1分，共8分）

1. 20个气球，每3个绑一束，可以绑7束。（　　）
2. 上午淘气去上学时面对太阳，他的左边是北边。（　　）
3. 一块三角尺上有1个锐角、2个直角。（　　）
4. 小明早上7时20分从家出发，7时55分到学校，他从家到学校共花了25分。（　　）
5. 刘翔跑110米栏大约用了13秒。（　　）
6. 比直角大的是锐角，比直角小的是钝角。（　　）
7. 由2个千、8个百、7个十、3个一组成的数是2871。（　　）
8. 如图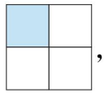，这个大正方形表示20，那么涂色部分表示5。（　　）

三、计算挑战。（共14分）

1. 看谁算得又对又快。（每题1分，共8分）

   75÷9＝　　600＋200＝　　756－300＝　　1×1＋1＝

   28÷4＝　　825－600＝　　200＋1400＝　　6÷6＋6＝
2. 用竖式计算。（带＊的要验算）（每题2分，共6分）

   64÷9＝　　502－216＝　　＊315＋587＝

关注微信公众号“教辅资料站”获取更多学习资料

四、请你画一画。（共 6 分）

1. 画一条比 3cm 长 5mm 的线。（2 分）

2. 画一个长方形和一个平行四边形。（4 分）



五、走进生活，解决问题。（共 26 分）

1. 将 14 枝平均插到 3 个花瓶中，每个花瓶插几枝？还剩几枝？（4 分）

2. 小红 8 分做 1 朵花，她从 7：25 到 8：00 最多能做多少朵花？（4 分）

3. 买家具。



368元



68元



365元



580元

（1）买一套桌椅共花多少钱？（3 分）

（2）一个柜子比一张床少多少钱？（4 分）

4. 幼儿园的老师要把下面的玩具分给各个小组。



22 个

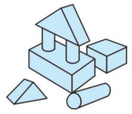

16 盒



10 辆

（1）每个小组要分到 7 个皮球、3 盒积木和 2 辆小汽车，最多能分几个小组？（3 分）

（2）每个小组少分多少个皮球，这些玩具就够平均分给 5 个小组了？（3 分）

5. 数一数。



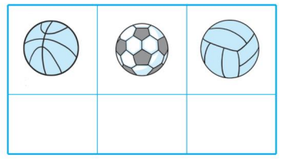

（1）用自己喜欢的方法，在表格中记录三种球的个数。（3 分）

（2）（　　）的个数最多，（　　）的个数最少。（2 分）

荣德基好卷
自己说说
老师点评
家长点评
密 封 线
关注微信公众号“教辅资料站”获取更多学习资料

荣德基 好卷

2年级 数学 下 BS版

期末复习冲刺卷

黄冈市名校期末测试卷

时间：60分钟　满分：100分

题号	一	二	三	四	五	六	总分
得分							

一、填一填。（每空1分，共29分）

1. 一个数由3个千、8个百、9个一组成，这个数是（　　），读作（　　）。
2. 七千零四写作（　　），7在（　　）位上，表示（　　）个（　　）。
3. 用3、7、2和0组成的四位数中，最大的数是（　　），最小的数是（　　），一个零也不读出来的数是（　　）。
4. 与9100相邻的两个数分别是（　　）和（　　）。
5. 在括号中填上适当的单位。

（1）练习本长约2（　　）。　（2）学校教学楼高15（　　）。

（3）小明身高约128（　　）。　（4）吃一顿饭用时20（　　）。

（5）小华跑50米用了12（　　）。

6. 1米＝（　　）分米　　12分米＝（　　）厘米

1时＝（　　）分　　1分20秒＝（　　）秒

7. 按规律填数。

（1）225，230，235，（　　），（　　）。

（2）1，4，9，16，（　　），（　　）。

8. 有27个梨，每5个装一盘（如图），可以装（　　）盘，还剩（　　）个梨。

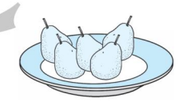

9. 淘气家在学校的西南方向，那么学校在淘气家的（　　）方向。
10. 一张正方形纸有4个角，如果用剪刀剪去1个角，那么最多剩下（　　）个角，最少剩下（　　）个角。

二、辨一辨。（对的在括号里画“√”，错的画“×”。每题1分，共5分）

1. 角越大，角的边就越长。（　　）
2. 读数时，“0”都要读出来。（　　）
3. 正方形的四个角都相等且都是直角，四条边也都相等。（　　）
4. 骑自行车每时约行20米。（　　）
5. 当你面向东面时，你的左边是西面。（　　）

三、选一选。（把正确答案的序号填在括号里。每题1分，共6分）

1. 在一个除法算式中，除数是7，余数最大是（　　）。

① 6　② 7　③ 8

2. （　　）÷4＝6……（　　），当余数最大时，被除数是（　　）。

① 25　② 27　③ 26

3. 下面的数中，（　　）最接近1000。

① 899　② 998　③ 1004

4. 下列算式中，结果小于800的是（　　）。

① 407＋398　② 507＋290　③ 956－118

5. 读数时应从最（　　）读起。

①高位　②低位　③中间

6. 现在是6：30，分针再走6大格是（　　）。

① 6：36　② 7：00　③ 12：30

四、计算挑战。（共20分）

1. 看谁算得又对又快。（每题1分，共8分）

190＋30＝　　720－420＝　　270＋500＝　　27÷3＝

320＋650＝　　450－70＝　　31÷8＝　　980－160＝

2. 用竖式计算。（带＊的要验算）（每题2分，共12分）

＊48＋103＝　　＊946－873＝　　29÷6＝

42÷7＝　　500－169＝　　376＋134＝

姓名　学号　班级　学校　密　封　线

豆点提示：请不要在密封线内答题哦！

荣德基好卷

关注微信公众号“教辅资料站”获取更多学习资料

五、按要求完成下列各题。（共 10 分）

1. 排座位。（请按题目中的方向把同学们的位置填在方框中）（6 分）

我在所有同学的中间，淘气坐在我的西南面，笑笑坐在我的正南面，妙妙坐在我的东北面。

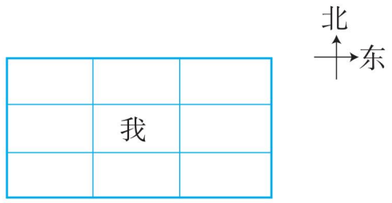

2. 画一条 6 厘米长的线。（2 分）

3. 画一个角，并写出各部分的名称。（2 分）

六、走进生活，解决问题。（共 30 分）

1. 小红周日上午 9：00 从家出发去图书馆，中午 11：30 回到自己家，来回路上一共用去 40 分，小红在图书馆呆了多长时间？（5 分）

2. 钉一件上衣要用 5 粒扣子，33 粒扣子最多能钉多少件上衣？还剩多少粒扣子？（4 分）



3. 我们班有男生 23 人、女生 20 人，全部去划船，至少要租几条船？（4 分）



4.



（1）估一估，小刚家离学校大约有多远？在正确答案的下面画“√”。小云家离学校大约有多远？在正确答案的下面画“○”。（2 分）

780 米	850 米	980 米	2 千米

（2）谁家离学校最远？谁家离学校最近？（3 分）

（3）小刚每天上学、放学往返一次，大约要走多少千米？（3 分）

5. 下面是从上海虹桥站到宜春站的某列高铁的里程信息。

车站	上海虹桥	杭州东	上饶	南昌西	宜春
里程/千米	0	159	500	741	917

（1）请根据表格，把数线图填写完整。（3 分）

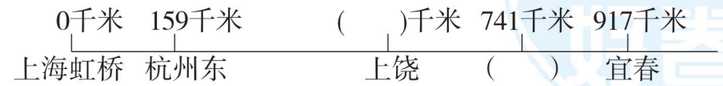

（2）杭州东站到上饶站有多少千米？（3 分）

（3）算式“917 – 159”解决的是什么数学问题？（3 分）

荣德基好卷

关注微信公众号“教辅资料站”获取更多学习资料

自己说说

老师点评

家长点评

荣德基 好卷

参考答案及点拨

2年级 数学 下 BS版（大卷）

第一单元跟踪检测卷

除法

一、1. （1）3　1　19÷6=3（个）……1（根）
（2）3　5　26÷7=3（个）……5（颗）
2. 5　5　【点拨】余数都比除数小。
3. 2　8　4. 8　5. 6　4
6. 8　71　【点拨】除数比余数大，余数是7，除数最小是8，求被除数，用“商×除数+余数”计算。
7. 5　9　6　5　7　7

二、1. ×　2. √　3. √　4. ×　5. ×

三、1. ③　2. ②　3. ③　4. ③　5. ③

四、1. 3，3　6，2　8，3　7，3　5，1　7，1

2. 27÷6=4……3　　60÷8=7……4

$$\begin{array}{r} 4 \\ 6\overline{)27} \\ \underline{24} \\ 3 \end{array}\qquad \begin{array}{r} 7 \\ 8\overline{)60} \\ \underline{56} \\ 4 \end{array}$$

83÷9=9……2　　47÷5=9……2

$$\begin{array}{r} 9 \\ 9\overline{)83} \\ \underline{81} \\ 2 \end{array}\qquad \begin{array}{r} 9 \\ 5\overline{)47} \\ \underline{45} \\ 2 \end{array}$$

29÷9=3……2　　24÷7=3……3

$$\begin{array}{r} 3 \\ 9\overline{)29} \\ \underline{27} \\ 2 \end{array}\qquad \begin{array}{r} 3 \\ 7\overline{)24} \\ \underline{21} \\ 3 \end{array}$$

五、1. 38÷6=6（串）……2（个）　答：可以穿6串。
2. 47÷6=7（架）……5（人）
答：最多可以做7架飞机模型。
3. 39÷6=6（个）……3（个）　6+1=7（个）
答：至少需要7个蛋托。
4. （1）50元+10元=60元
60÷7=8（架）……4（元）
答：最多能买8架。
（2）50元+10元=60元
60÷9=6（辆）……6（元）
答：最多能买6辆。
（3）用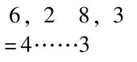买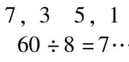，最多能买几辆？
50÷9=5（辆）……5（元）
答：最多能买5辆。（答案不唯一）
5. （1）37÷4=9（辆）……1（人）
答：最多可以坐满9辆车，会有剩余的人。
（2）37÷9=4（辆）……1（人）
4+1=5（辆）　答：至少要租5辆。
（3）9×1=9（人）　4×7=28（人）
9+28=37（人）
答：可以租1辆面包车和7辆小汽车。
【点拨】第（3）问答案不唯一。

第二单元跟踪检测卷

方向与位置

一、1. （1）南　（2）北　（3）东
2. 西南　东南　3. 东　西　西　东　南　北
4. 西　东　5. 南　东　6. 西　东北　7. 西　南

二、1. √　2. ×　3. ×　4. √　5. √

三、1. ③　2. ③　3. ②　4. ②　5. ③

四、1. （1）

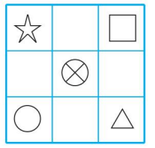

（2）西北　东南　（3）⊗　○

2.

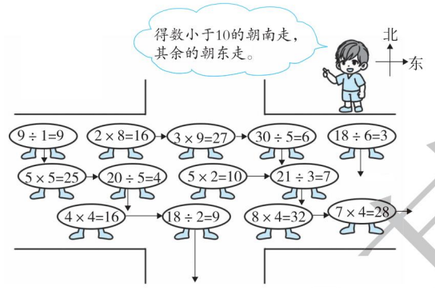

3.

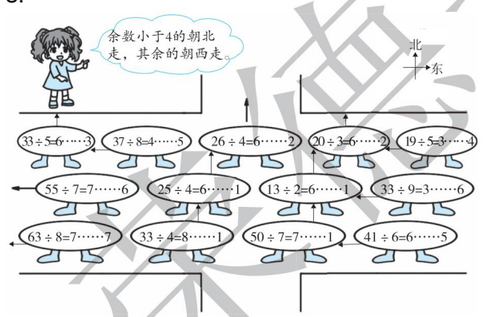

五、1. 西北　西南　西北　东北
【点拨】要找准观察点，观察点不同，方向就可能不同。
2. （1）东北　东南　东（前两个空答案不唯一）
（2）小玲先向东南走，再向东北走，最后向东走，就可以找到小松鼠（答案不唯一）
3. （1）西　东　（2）西南　北
（3）美食城　小森家、大学城
4. （1）家 →（东南）少年宫 →（东）电子大厦 →（西南）百货大楼 →（南）医院 →（西南）学校

（2）学校 →（东北）医院 →（东北）百货大楼 →（北）电子大厦 →（西）少年宫 →（西北）家

第三单元跟踪检测卷

生活中的大数

一、5823　五千八百二十三　6090　六千零九十
3458　三千四百五十八　465　四百六十五

二、1. 一百　一百　一万　2. 10000　100　10
3. 7　6　9　4. 十　四　万　三　5. 万　百
6. 四　993　7　7. 799　801
8. 10000　9999　1
9. （1）470　471　（2）4370　4390　4400
（3）6985　7085

三、1. ×　2. √　3. ×　4. ×　5. ×

四、1. ②　2. ①　3. ①　4. ①　5. ②

五、1. <　<　>　<　>　>
2. 0　8（或9）　9　0（或1）　9　0
3. （1）



（2）2686元　2560元　2403元　1999元　789元
（3）电视机　电饭锅

六、1. 820　1005　6397　2. （1）150　（2）15
3.

4. （1）3　（2）2　（3）2
5. （1）356，358，499　（2）856，865，998
（3）1001

第四单元跟踪检测卷

测量

一、1. 毫米　千米　km　2. 6　8　63
3. 分米　4. 800　200
5. 米　毫米　分米　千米　毫米　分米
6. =　【点拨】8厘米=80毫米。
<　【点拨】5千米=5000米。
=　【点拨】40厘米=4分米，4分米+6分米=10分米=1米。
<　【点拨】900厘米=9米。
>　【点拨】40厘米=4分米。
<　【点拨】1米-8分米=2分米=20厘米。
7. 5000　8　7　9　6　4
8. （1）1厘米<18毫米<3分米<2米
（2）200毫米<21厘米<3分米<4米

二、1. ×　2. ×　3. √　4. ×　5. ×

三、1. ①　2. ③　3. ①　4. ②　5. ③

四、1. 10　7　4　45　25　45　25
2. （1）36毫米
（2）6厘米

五、

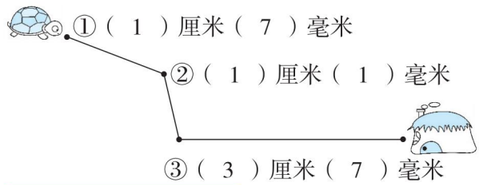

六、

900米	4千米	300米
□	△	√

七、米　分米　毫米　千米　千米

八、1. （1）12-8=4（千米）
答：涵涵每小时行4千米。
（2）8÷4=2（时）　2:30+2小时=4:30
答：涵涵可能4：30到公园。
（3）4:30+1小时=5:30　12÷4=3（时）
5：30+3小时=8：30
答：涵涵可能8：30到家。
2. 2千米



8-1=7　2×7=14（千米）
答：这段公路全长14千米。

期中检测卷

一、1. 米　分米　千米　2. 3　8　2　50　700　9000
3. 412　四百一十二　3051　三千零五十一
1463　一千四百六十三
4. >　>　<　=　<　>　>　<
5. （1）990　992　993　（2）7990　8090
6. 8　2　7. 7　8. 西　北　西北　邮局

二、1. ×　2. ×　3. √　4. ×　5. √

三、1. ②　2. ③　3. ①　4. ②　5. ②

四、1. 2　6　4　8　5　9　8　18　5　3　4　6
2. 36÷6=6　54÷8=6……6　25÷7=3……4

$$\begin{array}{r} 6 \\ 6\overline{)36} \\ \underline{36} \\ 0 \end{array}\qquad \begin{array}{r} 6 \\ 8\overline{)54} \\ \underline{48} \\ 6 \end{array}\qquad \begin{array}{r} 3 \\ 7\overline{)25} \\ \underline{21} \\ 4 \end{array}$$

五、1. 5023　314　9836　3078

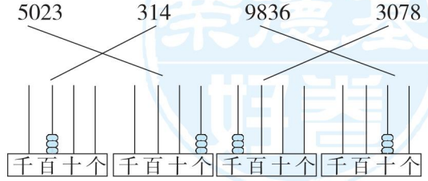

2. （1）

856米	913米	1200米
	△	

（2）

798米	930米	1600米
		○

3. 867根　1031根　1400根　1960根

六、1. 7分米2厘米=72厘米　72÷8=9（颗）
答：能折9颗五角星。
2. 33÷6=5（张）……3（张）
答：每人分到5张，还剩3张。

关注微信公众号“教辅资料站”获取更多学习资料

3. （1）28 ÷ 7 = 4（个）
答：可以买到 4 个文具盒。
（2）40 ÷ 9 = 4（个）……4（元）
答：最多可以买 4 个玩具白兵。
4. 18 ÷ 5 = 3（个）……3（枝）
答：可以插满 3 个花瓶，还剩 3 枝。
5. 45 ÷ 8 = 5(辆)……5(人)　5 + 1 = 6(辆)
答：至少需要 6 辆车。
【点拨】坐满 5 辆车后，还剩下 5 人，这 5 人也需要坐 1 辆车，所以需要 5 + 1 = 6(辆)车。

第五单元跟踪检测卷

加与减

一、
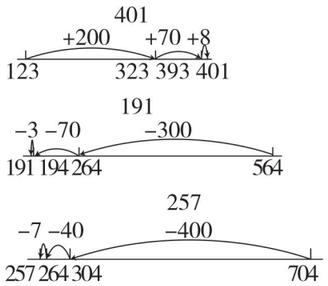

二、1. 前一　10　2. 1　3. 1009　989　4. 4
5. 367　588　196　6. 445　473
7. 522　638　8. 530
9. 高铁二等座　特快列车硬座　375
10. <　=　=　>

三、1. √　2. ×　3. √　4. √　5. ×

四、1. ③　2. ①　3. ③　4. ②　5. ①

五、1. 500　500　540　660　900　760　990　60

2. 514−158=356　　259+528=787

$$\begin{array}{r} 514 \\ -\ 158 \\ \hline 356 \end{array} \qquad \begin{array}{r} 259 \\ +\ 528 \\ \hline 787 \end{array}$$

★367+288=655

$$\begin{array}{r} 367 \\ +\ 288 \\ \hline 655 \end{array}$$
验算：
$$\begin{array}{r} 655 \\ -\ 367 \\ \hline 288 \end{array}$$

76+623=699　　701−293=408

$$\begin{array}{r} 76 \\ +\ 623 \\ \hline 699 \end{array} \qquad \begin{array}{r} 701 \\ -\ 293 \\ \hline 408 \end{array}$$

★800−299=501

$$\begin{array}{r} 800 \\ -\ 299 \\ \hline 501 \end{array}$$
验算：
$$\begin{array}{r} 501 \\ +\ 299 \\ \hline 800 \end{array}$$

六、1. 181 + 180 = 361（枚）
答：一副标准围棋共有 361 枚棋子。
2. 119 − 20 = 99（箱）　119 + 99 = 218（箱）
答：二、三月份一共进了 218 箱苹果。
【点拨】先要求出三月份进了多少箱苹果，别忘了还要加上二月份的。

3. （1）

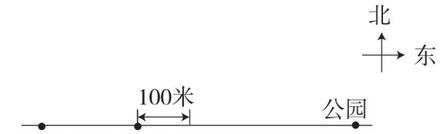

（2）420 + 185 = 605（米）
答：从公园到少年宫要走 605 米。
4. (1)256 + 47 = 303(下)　答:小强跳了 303 下。
（2）338 − 256 = 82（下）
答：小朵距最高纪录还差 82 下。
5. （1）把 332 看成 330，把 314 看成 310。
330 + 310 = 640（人）　600 < 640
答：字帖不够分。
（2）332 + 314 = 646（人）
答：三、四年级共有 646 人。
（3）646 − 600 = 46
答：字帖本数和学生人数相差 46。

第六单元跟踪检测卷

认识图形

一、1. 1　2
2.
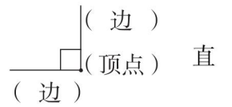

直　锐　钝
3. 3　1　2　4. 4　直　5. 6　1　5　0
6. 相等　相等　直　7. 9　3　8. 直
9. 没有　4　直

二、1. ×　2. ×　3. ×　4. √　5. ×

三、1. ②　2. ②　3. ③　4. ①　5. ②

四、1. （√）（　）（√）（　）（　）
2. （√）（○）（○）（○）（×）
3. （√）（　）（　）（√）（　）

五、1.


【点拨】注意要按顺序找，从第一个图形开始，依次往下找。
2.
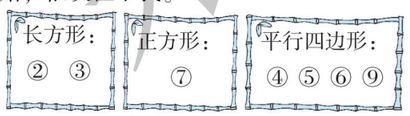

六、1. （1）
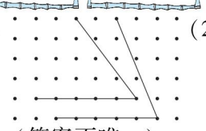
（答案不唯一）
（2）
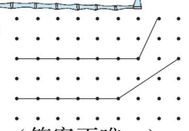
（答案不唯一）
（3）
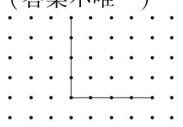

2. （1）
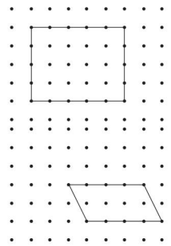
（2）
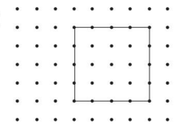
（3）

3. （分法不唯一）
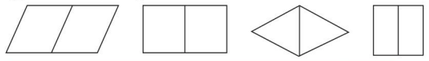

七、1.
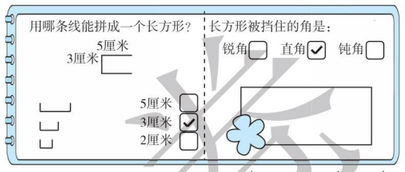

2.
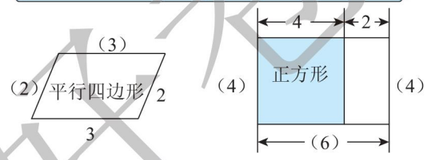

3. （1）5　4　（2）6　6

第七单元跟踪检测卷

时、分、秒

一、1. 秒　2. 60　1　1　1　60
3. 分　秒　时　分　秒　秒
4. （1）120　2　（2）1　5　（3）90
5. 1　20　75　1　30　85
6. <　<　=　<　>　>　7. 10

二、1. ×　2. ×　3. √　4. ×　5. ×

三、1. ③　2. ②　3. ②　4. ②
5. ②　【点拨】用时最少，速度最快。

四、1. 6 时 20 分　11 时 02 分　6 时 50 分
6：20　　11：02　　6：50
2 时 55 分
2：55

2.
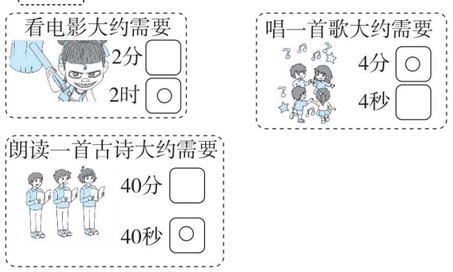

五、1. （1）30
（2）周六下午这段时间我在看书学习。（答案不唯一）
2. （1）1　25
（2）周六下午这段时间我在吃晚饭。（答案不唯一）

六、1. 5 时 50 分 − 5 时 20 分 = 30 分
答：芳芳提前 30 分到达电影院的。
2. 8 时 25 分 + 40 分 = 9 时 5 分



【点拨】计算时间时，时与时相加减，分与分相加减，当分与分相加满了 60 分，就要向前进 1 时。
3. 11 时 30 分 − 8 时 = 3 时 30 分
4 时 − 1 时 30 分 = 2 时 30 分
3 时 30 分 + 2 时 30 分 = 6 时
答：吴老师一天上班 6 时。
4. （1）16 < 17 < 21 < 24
答：徐明跑得最快，周强跑得最慢。
（2）24 − 16 = 8（秒）
答：最快的比最慢的少用 8 秒。
5. （1）12 时 − 9 时 = 3 时
5 时 30 分 − 1 时 = 4 时 30 分
答：游泳馆上午开放 3 时，下午开放 4 时 30 分。
（2）下午 1 时 = 13 时　13 时 − 12 时 = 1 时
答：中午休息 1 时。

第八单元跟踪检测卷

调查与记录

一、1. 6　14　18　10　2. 果果　乐乐
3. 乐乐　他得到的票数最多

二、1. （方法不唯一）


2.

水果				
个数	10	4	6	9

3. 6　3　4. 橘子　香蕉　5. 29

三、1. 长方形：正下　三角形：下
平行四边形：下　圆：下　正方形：下
2. 8　4　4　3　2
3. 长方形　正方形　三角形　平行四边形
4. 1　4

四、1. 80 ~ 89　40 ~ 49　2. 3　3　6　3. 8　34　26

五、1. 25　20　6　14　65　2. 轿车　卡车
3. 19　8　4. 轿车
5. （答案不唯一）如：轿车比出租车多多少辆？
25 − 14 = 11（辆）
答：轿车比出租车多 11 辆。

六、1.

圆圆	琪琪	浩浩	聪聪
15 票	7 票	12 票	8 票

2. 42　圆圆　15　琪琪　7　3. 圆圆
4. 不影响结果，因为即使 2 票全部投给浩浩，浩浩也只有 14 票。

七、1. 4　6　6　8　11　2. 二　四　五
3. 五　五　一　一　4. 40　35

关注微信公众号“教辅资料站”获取更多学习资料

5. 双休日的水果销售情况应该是一周中最好的。

八、1.

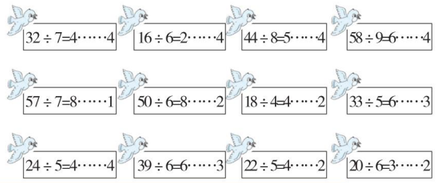

2.

余数	1	2	3	4
次数	一	正	丅	正

3. 4　1

期末复习冲刺卷

模块过关卷（一）　计算与时间

一、1. 八千六百一十一　四　千　百　1　1
2. 相同　个　3. 6
4. 971　【点拨】求这个数不能用减法，要用加法。　575
5. 喜羊羊　6. 290　480　250　220
7. =　<　>　<　8. 9：28　7：15　12：05

二、1. √　2. ×　3. ×　4. √　5. ×

三、1. ③　2. ③　3. ②　4. ③　5. ①

四、1. 55　8000　7　980　470　340　6　2000

2. 30÷7=4……2

$$\begin{array}{r} 4 \\ 7\overline{)30} \\ 28 \\ \hline 2 \end{array}$$

80÷9=8……8

$$\begin{array}{r} 8 \\ 9\overline{)80} \\ 72 \\ \hline 8 \end{array}$$

815−164=651

$$\begin{array}{r} 815 \\ -\ 164 \\ \hline 651 \end{array}$$

365+478=843

$$\begin{array}{r} 365 \\ +\ 478 \\ \hline 843 \end{array}$$

*59+745=804

$$\begin{array}{r} 59 \\ +\ 745 \\ \hline 804 \end{array}$$

验算：

$$\begin{array}{r} 804 \\ -\ 59 \\ \hline 745 \end{array}$$

*1000−198=802

$$\begin{array}{r} 1000 \\ -\ 198 \\ \hline 802 \end{array}$$

验算：

$$\begin{array}{r} 802 \\ +\ 198 \\ \hline 1000 \end{array}$$

五、

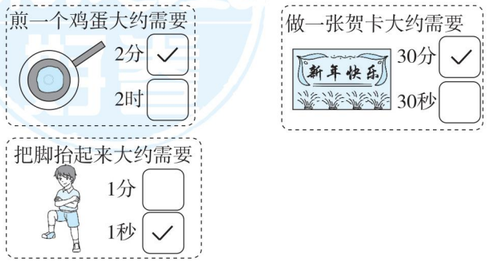

六、1.（1）45÷8=5（个）……5（根）
答：最多能搭5个下面的图案。
（2）66÷9=7（个）……3（个）
7+1=8（个）
答：至少需要8个这样的盘子。

2. 183+129=312（张）　400−312=88（张）
答：还剩88张彩色纸。

3.（1）

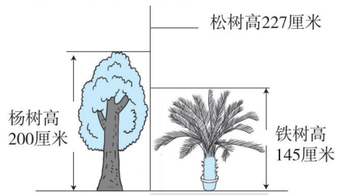

（2）杨树比铁树高多少厘米？
200−145=55（厘米）
答：杨树比铁树高55厘米。
（答案不唯一，合理即可）

4.（1）118−29=89（棵）　答：本周植树89棵。
（2）118+89=207（棵）
答：两周一共植树207棵。

5.（1）338−242=96（厘米）
答：今年夏季水深距历史最高纪录还差96厘米。
（2）242−108=134（厘米）
答：冬季水深为134厘米。

模块过关卷（二）　几何、测量、调查

一、1. 西　北　2. 西　南　3. 钝　锐　直　钝
4. 800　200　5. 4　直　6. 长方　平行四边
7. 北　东北　北　8. 3　1
9. 3000　50　60　80　3　900

二、1. ×　2. ×　3. ×　4. √　5. ×

三、1. ②　2. ②　③　3. ②　4. ②　5. ③

四、1.



（画法均不唯一）

2.

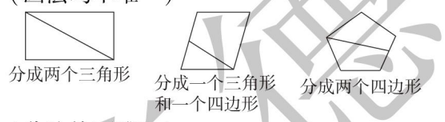

（分法均不唯一）

五、1. 65

2.

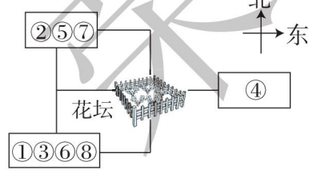

3. 24　19　30　15　88　篮球　橄榄球

六、1.

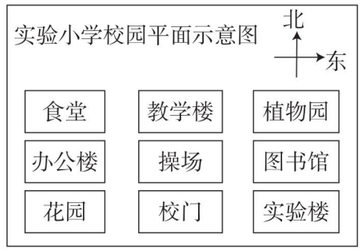

2.（1）

图形	▭	□	△	○
记录的方式	正	正一	正	丅
个数	5	6	5	4

（记录的方式不唯一）

（2）20　（3）▭　○　▭　△

（4）1　2

模块过关卷（三）　实际应用

一、1. 10000　10　2. 5　3. 千米　时
4. 4　5　5. 3　4　4
6. 9　【点拨】要用“进一法”。
7. 3　【点拨】要用“去尾法”。
8. 8或9　9. 285　10. 8　11. 7：30
12. 6　13. 白珠　蓝珠　14. 8　35　8　45

二、1. ×　2. √　3. ×　4. √　5. ×

三、1. ②　2. ①　3. ③　4. ②　5. ②

四、1. 180　420　280　3　443　940　4　8

2. 20÷6=3……2

$$\begin{array}{r} 3 \\ 6\overline{)20} \\ 18 \\ \hline 2 \end{array}$$

*159+648=807

$$\begin{array}{r} 159 \\ +\ 648 \\ \hline 807 \end{array}$$

验算：

$$\begin{array}{r} 807 \\ -\ 159 \\ \hline 648 \end{array}$$

*512−293=219

$$\begin{array}{r} 512 \\ -\ 293 \\ \hline 219 \end{array}$$

验算：

$$\begin{array}{r} 219 \\ +\ 293 \\ \hline 512 \end{array}$$

五、1. 245−129=116（辆）
116+187=303（辆）
答：该小区地下停车场有303个停车位。

2. 25÷8=3（次）……1（人）　3+1=4（次）
答：小芳第4次才能进去体验。

3. 拼成的长方形：▭▭▭▭长4厘米，宽1厘米。
拼成的大正方形：▭▭▭▭边长2厘米。

4.（1）17÷2=8（个）……1（朵）
答：17朵萝卜雕花最多可以放8个盘子。
（2）45÷6=7（张）……3（个）
7+1=8（张）
答：剪45个苹果模型至少需要8张纸。

5.（1）322+489=811（米）
答：要走811米。
（2）647+256=903（米）
903>811　903−811=92（米）
答：走经过医院的路比较近，近92米。

6.（1）7　18　9　2　（2）3～4本

模块过关卷（四）　常考易错题综合

一、1. 六千四百零七　6407　二千零五十　2050
2. 千米　分米　米　分
3.（1）1800　1600　（2）5050　5250
4. 5　7　5　7　5. 5　120　6. 4　44
7. 763　306
8. 1000　厘米　【点拨】1千米=1000米，要数1000次；10毫米=1厘米。
9. 8　10. 2　4

二、1. ×　【点拨】直角的大小是固定的，不会变。
2. √　3. ×　【点拨】应该是西南方向。
4. ×　5. √

三、1. 32　6　840　240　8……1　0　460　746
63　5　564　283　4……8　48　770　900

2. 38÷8=4……6

$$\begin{array}{r} 4 \\ 8\overline{)38} \\ 32 \\ \hline 6 \end{array}$$

*534+276=810

$$\begin{array}{r} 534 \\ +\ 276 \\ \hline 810 \end{array}$$

验算：

$$\begin{array}{r} 810 \\ -\ 276 \\ \hline 534 \end{array}$$

*602−206=396

$$\begin{array}{r} 602 \\ -\ 206 \\ \hline 396 \end{array}$$

验算：

$$\begin{array}{r} 396 \\ +\ 206 \\ \hline 602 \end{array}$$

3. 4：25　35　5：00　55　5：55

四、1.

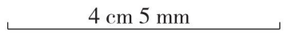

2.（1）□　△　（2）○　○

3.

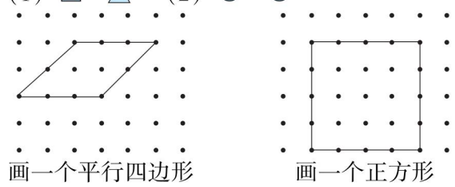

画一个平行四边形　画一个正方形

4. 5　2　2

五、1. 21÷4=5（次）……1（人）　5+1=6（次）
答：第6次才能进去。

2. 280+370=650（千克）
答：两天共卖了650千克。

3. 520−295=225（米）
答：下山比上山少行225米。
【点拨】图中的“长447米”为无用信息。

4.（1）东北　380　东　540
（2）西北　485　970
（3）540−380=160（米）
答：小乐从家到超市比从学校到超市近160米。

5.（1）17
（2）17+13=30（人）
答：最喜欢苹果和最喜欢橘子的一共有30人。
（3）9÷3=3（人）
答：最喜欢芒果的有3人。

期末测试卷

一、1. 6772　2. 5　9　7
3. 分米　毫米　千米　分
4. 四　百　7个百
5. 7050　7060　【点拨】规律为每次加5。
6. 2000　3　1　30　7. 9（或3）

关注微信公众号“教辅资料站”获取更多学习资料

8. 3230 > 3203 > 3023 > 2330 > 2303　9. 6　34
10.

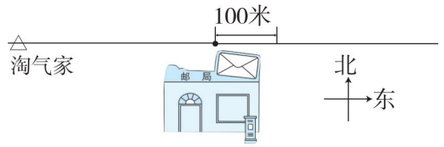

11. (1) 900　(2) 800
12. 7:45　15 分　8:00　2 时 30 分　10:30
13. ①④　②⑤　③

二、1. ②　2. ①　【点拨】注意区分单位。
3. ③　【点拨】一、二年级共有 252 + 308 = 560(人),二、三年级共有 308 + 246 = 554(人),一、三年级共有 252 + 246 = 498(人),选③。
4. ②

三、1. 4　748　8　260　9　42　51　58　694　4
2. 74 ÷ 8=9……2　　264+38=302

$$\begin{array}{r} 9 \\ 8\overline{)7\ 4} \\ 7\ 2 \\ \hline 2 \end{array}$$

$$\begin{array}{r} 2\ 6\ 4 \\ +\ \ 3\ 8 \\ \hline 3\ 0\ 2 \end{array}$$

▲600−127=473

$$\begin{array}{r} 6\ 0\ 0 \\ -\ 1\ 2\ 7 \\ \hline 4\ 7\ 3 \end{array}$$

验算：

$$\begin{array}{r} 4\ 7\ 3 \\ +\ 1\ 2\ 7 \\ \hline 6\ 0\ 0 \end{array}$$

四、1. 东　北　2. 西　东北

五、1. (1) 257 + 76 = 333 (本)
答：故事书和连环画一共有 333 本。
(2) 257 − 139 = 118 (本)
答：科技书比故事书少 118 本。
(3) 60 ÷ 9 = 6 (本) ……6 (元)
答：她最多可以买 6 本连环画。
2. 587 + 174 = 761 (米)
答：小虎步行了 761 米。
3. 24 ÷ 6 = 4 (元)　4 < 6
答：乐乐买的饮料便宜。

六、1.

正 正 丁	正 丁	正 下	正 下

(记录方法不唯一)
2. 12　7　8　8
3. 足球　羽毛球　皮球　篮球

无锡市名校期末测试卷

一、1. 3016　三千零一十六　2. 5599　5601
3. 334　62
4. 5　29　【点拨】余数小于除数。
5. 南　6. (1) 4　(2) 135　1　35
7. (1) 8038　7938　(2) 250　300
【点拨】(1)题的规律是每次减去 100;(2)题的规律是每次加上 25。
8. 7　厘米　9. 8　5　4　10. 8 厘米
11. 分米　时　毫米

二、1. √　【点拨】分针走 1 是 1 时，故时针走一大格。
2. ×　【点拨】做同样的事情，用时越短速度越快。
3. ×　【点拨】最大的三位数是 999，最大的两位数是 99，它们相差 900。
4. ×　5. √

三、1. ③　2. ①　3. ③　4. ①　5. ③

四、1. 650　320　199　48　9　710　2700　390　28　7……1
2. ☆389+68=457

$$\begin{array}{r} 3\ 8\ 9 \\ +\ \ 6\ 8 \\ \hline 4\ 5\ 7 \end{array}$$

验算：

$$\begin{array}{r} 4\ 5\ 7 \\ -\ 3\ 8\ 9 \\ \hline 6\ 8 \end{array}$$

☆802−568=234

$$\begin{array}{r} 8\ 0\ 2 \\ -\ 5\ 6\ 8 \\ \hline 2\ 3\ 4 \end{array}$$

验算：

$$\begin{array}{r} 2\ 3\ 4 \\ +\ 5\ 6\ 8 \\ \hline 8\ 0\ 2 \end{array}$$

73 ÷ 9=8……1

$$\begin{array}{r} 8 \\ 9\overline{)7\ 3} \\ 7\ 2 \\ \hline 1 \end{array}$$

57 ÷ 7=8……1

$$\begin{array}{r} 8 \\ 7\overline{)5\ 7} \\ 5\ 6 \\ \hline 1 \end{array}$$

五、1.

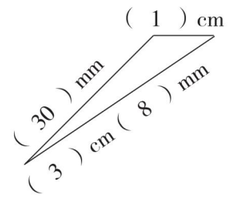

2.

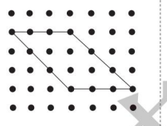

六、1. 50 ÷ 9 = 5 (个) ……5 (个)
答：每个小朋友分到 5 个苹果，还剩 5 个苹果。
2. 45 ÷ 6 = 7(辆)……3(人)　7 + 1 = 8(辆)
答：至少要安排 8 辆这样的车。
【点拨】注意此类题目，当有余数时，则需要增加 1 辆车。
3. 5 × 9 = 45 (页)　45 + 67 = 112 (页)
答：这本故事书共有 112 页。
4. 323 − 56 = 267 (台)　267 + 323 = 590 (台)
答：这一天共卖出 590 台电视机。
5. 1 米 = 100 厘米　5 分米 = 50 厘米
35 + 50 = 85(厘米)　100 − 85 = 15(厘米)
答：这根彩带还剩下 15 厘米。
【点拨】当题目中出现不同的计量单位时，要先把单位化统一，再进行计算。
6. (1) 林河村 > 小枣村 > 爱民村 > 阳光村 > 向华村
(2)

林河村	向华村	小枣村	北
爱民村	公园	阳光村	东

浙江省名校期末测试卷

一、1. 3158　二千零一十四　2. 千　2　2　十
3. 10　10　4. 9998　10000
5. (1) 76　90　(2) 6066　5966
6. 8　7000　70　7. 6　8　5　4
8. 5005　5005 或 5050　5500
9. <　>　=　=　>　10. 3
11. 3　1　4　12. 7　3　13. 6
14. 分米　厘米　米
15. 3 时 > 2 时 10 分 > 1 时 50 分 > 70 分
16. (1)西　东南　(2)西　西南　(3)学校

二、1. ×　2. √　3. ×　4. ×　5. √　6. ×　7. ×　8. √

三、1. 8……3　800　456　2　7　225　1600　7
2. 64 ÷ 9=7……1

$$\begin{array}{r} 7 \\ 9\overline{)6\ 4} \\ 6\ 3 \\ \hline 1 \end{array}$$

502−216=286

$$\begin{array}{r} 5\ 0\ 2 \\ -\ 2\ 1\ 6 \\ \hline 2\ 8\ 6 \end{array}$$

*315+587=902

$$\begin{array}{r} 3\ 1\ 5 \\ +\ 5\ 8\ 7 \\ \hline 9\ 0\ 2 \end{array}$$

验算：

$$\begin{array}{r} 9\ 0\ 2 \\ -\ 3\ 1\ 5 \\ \hline 5\ 8\ 7 \end{array}$$

四、1. 3 cm 5 mm
2.



(答案不唯一)

五、1. 14 ÷ 3 = 4 (枝) ……2 (枝)
答：每个花瓶插 4 枝，还剩 2 枝。
2. 8 时 − 7 时 25 分 = 35 分
35 ÷ 8 = 4 (朵) ……3 (分)
答：她从 7：25 到 8：00 最多能做 4 朵花。
3. (1) 368 + 68 = 436 (元)
答：买一套桌椅共花 436 元钱。
(2) 580 − 365 = 215 (元)
答：一个柜子比一张床少 215 元钱。
4. (1) 22 ÷ 7 = 3 (个) ……1 (个)
16 ÷ 3 = 5 (个) ……1 (盒)
10 ÷ 2 = 5 (个)　3 < 5
答：最多能分 3 个小组。
(2)22 ÷ 5 = 4(个)……2(个)　7 − 4 = 3(个)
答：每个小组少分 3 个皮球，这些玩具就够平均分给 5 个小组了。
5. (1) 正正丌　正正丁　正丌(记录方法不唯一)
(2) 篮球　排球

黄冈市名校期末测试卷

一、1. 3809　三千八百零九
2. 7004　千　7　千
3. 7320　2037　7320 (最后一空答案不唯一)
4. 9101　9099
5. (1) 分米　(2) 米　(3) 厘米
(4) 分　(5) 秒
6. 10　120　60　80
7. (1) 240　245　(2) 25　36
8. 5　2　9. 东北　10. 5　3

二、1. ×　【点拨】角的大小与边的长度无关。
2. ×　3. √　4. ×
5. ×　【点拨】面向东面时，左边是北面。

三、1. ①　2. ②　3. ②　4. ②　5. ①　6. ②

四、1. 220　300　770　9　970　380　3……7　820
2. *48+103=151

$$\begin{array}{r} 4\ 8 \\ +\ 1\ 0\ 3 \\ \hline 1\ 5\ 1 \end{array}$$

验算：

$$\begin{array}{r} 1\ 5\ 1 \\ -\ \ 4\ 8 \\ \hline 1\ 0\ 3 \end{array}$$

*946−873=73

$$\begin{array}{r} 9\ 4\ 6 \\ -\ 8\ 7\ 3 \\ \hline 7\ 3 \end{array}$$

验算：

$$\begin{array}{r} 7\ 3 \\ +\ 8\ 7\ 3 \\ \hline 9\ 4\ 6 \end{array}$$

29 ÷ 6=4……5

$$\begin{array}{r} 4 \\ 6\overline{)2\ 9} \\ 2\ 4 \\ \hline 5 \end{array}$$

42 ÷ 7=6

$$\begin{array}{r} 6 \\ 7\overline{)4\ 2} \\ 4\ 2 \\ \hline 0 \end{array}$$

500−169=331

$$\begin{array}{r} 5\ 0\ 0 \\ -\ 1\ 6\ 9 \\ \hline 3\ 3\ 1 \end{array}$$

376+134=510

$$\begin{array}{r} 3\ 7\ 6 \\ +\ 1\ 3\ 4 \\ \hline 5\ 1\ 0 \end{array}$$

五、1.

		妙妙	北
	我		东
淘气	笑笑		

2.

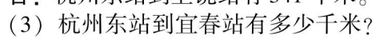

3.

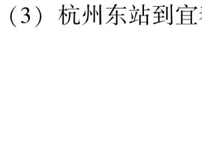

(所画角不唯一)

六、1. 11 时 30 分 − 9 时 = 2 时 30 分
2 时 30 分 − 40 分 = 1 时 50 分
答：小红在图书馆呆了 1 时 50 分。
2. 33 ÷ 5 = 6 (件) ……3 (粒)
答：33 粒扣子最多能钉 6 件上衣，还剩 3 粒扣子。
3. 23 + 20 = 43 (人)
43 ÷ 5 = 8 (条) ……3 (人)
8 + 1 = 9 (条)
答：至少要租 9 条船。
4. (1)

780 米	850 米	980 米	2 千米
		○	√

(2) 小刚家离学校最远，小玉家离学校最近。
(3) 2 + 2 = 4 (千米)
答：大约要走 4 千米。
5. (1) 500　南昌西
(2) 500 − 159 = 341 (千米)
答：杭州东站到上饶站有 341 千米。
(3) 杭州东站到宜春站有多少千米?

关注微信公众号“教辅资料站”获取更多学习资料

好卷

小卷

- 周测培优卷（11套）
- 专项能力提升卷（7套）



2年级 数学

下（BS版）

荣德基好卷

关注微信公众号“教辅资料站”获取更多学习资料



目录

周测培优卷

除法的计算能力检测卷 …… 01

除法的应用能力检测卷 …… 03

方向与位置能力检测卷 …… 05

大数的读、写、意义的理解能力检测卷 …… 07

大数的比较和估计能力检测卷 …… 09

测量能力检测卷 …… 11

加与减的计算能力检测卷 …… 13

加与减的应用能力检测卷 …… 15

认识图形能力检测卷 …… 17

时、分、秒的理解能力检测卷 …… 19

调查与记录能力检测卷 …… 21

专项能力提升卷

计算的挑战 …… 23

单位的转化 …… 25

统计与概率 …… 27

熟练理解万以内的数 …… 29

简单的空间想象能力 …… 31

有余数的除法应用题强化练习 …… 33

加与减的应用题综合练习 …… 35

参考答案及点拨 …… 37

荣德基好卷

关注微信公众号“教辅资料站”获取更多学习资料

班级_____ 姓名_____ 得分_____ 时间：40分钟 满分：100分

一、我会填。（第3题3分，其余每题6分，共33分）

1. 比756多89的数是（　　），（　　）比580少169。

2. 368 + 275 = 643，可以用式子（　　）来验算，也可以用式子（　　）来验算，还可以用式子（　　）来验算。

3. 金星小学有男生498人，女生504人，大约一共有（　　）人。

4. 画一画，填一填。

（1）678 + 134 = （　　）



（2）290 − 45 = （　　）



5. ☆□△ ☆□△ ☆□△ ……按这样的规律排下去，第18个图案是（　　），第29个图案是（　　）。

6. □里最大能填几？

6547 > 6□45　　45 ÷ 5 > □　　6 < 24 ÷ □

二、计算挑战。（共32分）

1. 看谁算得又对又快。（每题1分，共8分）

680 − 600 =　　340 − 80 =　　350 + 70 =　　45 ÷ 9 =

243 + 300 =　　140 + 600 =　　32 ÷ 4 =　　58 ÷ 7 =

2. 列竖式计算，带△的要验算。（每题4分，共24分）

58 ÷ 6 =　　76 ÷ 9 =　　45 ÷ 6 =

843 + 175 =　　973 − 347 =　　△905 − 735 =

荣德基好卷

关注微信公众号“教辅资料站”获取更多学习资料

三、走进生活，解决问题。（共 35 分）

1. 现在买洗衣机比原来便宜多少元？（8 分）



原价：900元
现价：779元

2. 二（1）班有男生 32 人、女生 25 人，全班同学一起去划船，每条船限乘 9 人，至少要租几条船？（8 分）



3. 请问：买一套桌椅共需多少元？一张办公桌比一把椅子贵多少元？（10 分）

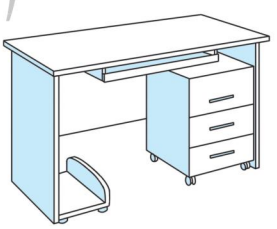

650 元



485 元

4. 在表格中填上合适的交通工具名称。（9 分）

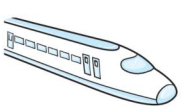		
高铁列车八节车厢坐的人数比波音 777 飞机多一些；波音 777 飞机坐的人数比轮船少得多。		

3000 人	392 人	600 人

荣德基好卷

关注微信公众号“教辅资料站”获取更多学习资料

专项能力提升卷2 单位的转化

班级_____ 姓名_____ 得分_____ 时间：40分钟 满分：100分

一、我会填。（第1题8分，其余每题4分，共20分）

1. 在（　　）里填上合适的单位。



踢一场足球比赛约用90（　　）。



黑板长30（　　）。



跳绳10下约用7（　　）。



食指大约宽10（　　）。

2. 直尺上刻度0到刻度10的距离是（　　）厘米，也就是1（　　）。

3. 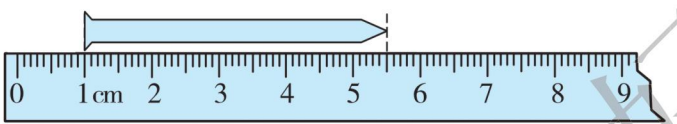

铁钉的长度是（　　）厘米（　　）毫米。

4. 

脚的长度是（　　）分米。

二、我会辨。（对的在括号里画“√”，错的画“×”。每题4分，共12分）

1. 1时=10分。（　　）
2. 一枚硬币的厚度约是20毫米。（　　）
3. 1500米比1千米长，比2千米短。（　　）

三、我会选。（把正确答案的序号填在括号里。每题3分，共9分）

1. 伸一下懒腰，大约需要用（　　）。

①1分　　②5分　　③5秒

2. 公共汽车相邻两站之间的距离约为1000（　　）

①千米　　②毫米　　③厘米　　④米

3. 火车下午3：15出发，路上用了4时35分，（　　）到达。

①凌晨1时　②凌晨1时20分　③晚上7时50分　④晚上8时

关注微信公众号“教辅资料站”获取更多学习资料

四、我会按要求解决。（共 30 分）

1. 连一连。（12 分）

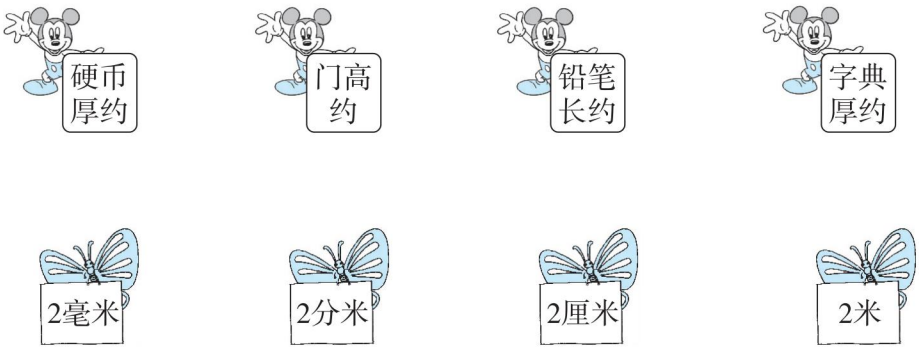

2. 在◯里填上“＞”“＜”或“＝”。（每题 3 分，共 18 分）

40 毫米 ◯ 4 米　　61 秒 ◯ 1 分　　550 米 ◯ 5 千米

70 毫米 ◯ 7 厘米　3 时 ◯ 180 分　　3 厘米＋50 毫米 ◯ 35 毫米

五、走进生活，解决问题。（共 29 分）

1. 200 米跑步比赛。



小明	小亮	小强	小刚
1 分 3 秒	58 秒	比 1 分少 10 秒	67 秒

把前三名同学的名字写在下面的括号里。（12 分）

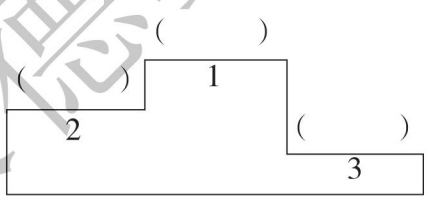

2. 生活中的数学。



开放时间：上午 8：30～11：00

下午 2：00～4：30

（1）上午马戏团开放多长时间？（8 分）

（2）下午马戏团开放多长时间？（9 分）

荣德基好卷

关注微信公众号“教辅资料站”获取更多学习资料

班级_____ 姓名_____ 得分_____ 时间：40分钟 满分：100分

一、下面是龙龙调查的同学们最喜欢哪一个季节的调查记录。（共24分）

春季	正正正丅
夏季	√√√√√√√√√√√√
秋季	△△△△△△
冬季	× × × ×

1. 龙龙一共调查了(　　)名同学。(6分)
2. 最喜欢(　　)季的人最多，最喜欢(　　)季的人最少。(10分)
3. 如果组织同学们去游玩，最好安排在哪个季节？(8分)

二、下面是体育室里的器材。（共24分）

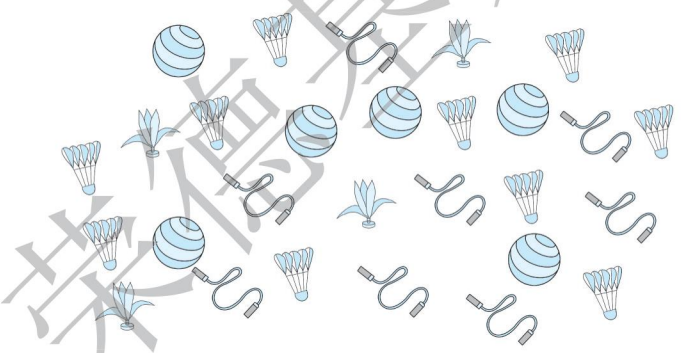

1. 用自己喜欢的方法，在表格中记录四种器材的个数。(8分)

2. 把统计的结果填在下面的表中。(8分)

器材				
个数				

3. 比少(　　)个，比少(　　)个。(8分)

关注微信公众号“教辅资料站”获取更多学习资料

三、洋洋体育用品商店为了解篮球、足球、排球和皮球的销售量，做了下面的记录表。（共 12 分）

篮球	足球	排球	皮球
正正正 正正正 正正正	正正正 正正正 正正正	正正正 正正正 正	正正正 正正正 正正

1. （　　）球卖得最多，（　　）球卖得最少。（6 分）

2. 四种球一共卖了多少个？（6 分）

四、状状记录了家乡去年四月份的空气质量情况。下面是他记录的结果。（共 20 分）

日期	1	2	3	4	5	6	7	8	9	10	11	12	13	14	15	16	17	18	19	20	21	22	23	24	25	26	27	28	29	30
一级		√	√								√		√		√				√	√			√	√	√		√	√	√	√
二级	√			√	√	√		√	√	√		√				√					√	√								
三级							√							√			√	√								√				

1. 空气质量为一级的有多少天？二级的有多少天？三级的有多少天？（8 分）

2. 去年四月份，状状家乡哪级空气质量的天数最多？（4 分）

3. 空气质量为三级和二级的天数哪个多？多多少天？（8 分）

五、下面是二（1）班选举班长时 3 位候选人的得票情况。（每名同学只投 1 票）（共 20 分）

王刚	赵明	李松
正正下	正正丁	正下

1. 一共有（　　）名同学投票。（4 分）

2. （　　）的票数最多，（　　）的票数最少。（8 分）

3. 你认为谁有可能当上班长？为什么？（8 分）

关注微信公众号“教辅资料站”获取更多学习资料

班级_____ 姓名_____ 得分_____ 时间：40分钟 满分：100分

一、我会填。（每题6分，共30分）

1. 15个百是（　　），1200里面有（　　）个十。

2. 写出与下面各数相邻的两个数。

□ 8240 □　　□ 6000 □　　□ 919 □

3. 有一个四位数，从右边数第二位是5，第四位是9，其余各位都是0，这个数是（　　）。

4. 从4、7、0、5、1中任选四个数组成的四位数中，最大的数是（　　），最小的数是（　　）。

5. 方框里最小能填几？

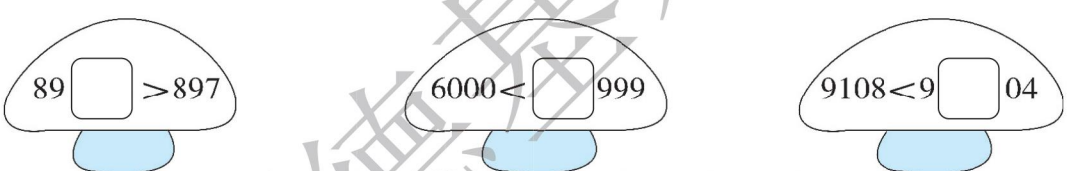

二、我会比。（每空2分，共12分）

把下面的数按从大到小的顺序排列。



（　　）>（　　）>（　　）>（　　）>（　　）>（　　）

三、我会想。（每题3分，共18分）

在□里填上合适的数。

600 + □ = 1400　　4500 − □ = 4300　　□ − 70 = 80

700 + □ = 4700　　1000 − □ = 300　　□ + 500 = 6600

关注微信公众号“教辅资料站”获取更多学习资料

四、走进生活，解决问题。（共 40 分）

1. 某大型超市定做了 1100 个彩蛋。（10 分）



2. （1）请标出大象身高的大概位置。（3 分）

（2）请你提出一个数学问题，并解答。（9 分）

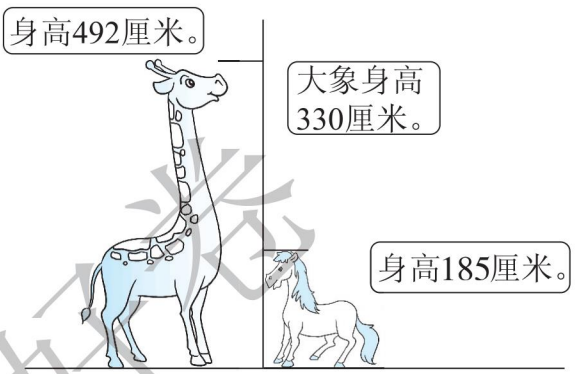

3. 

大货车：运了456千克　　小货车：运了289千克

（1）小货车比大货车少运多少千克？（6 分）

（2）它们一共运了多少千克？（6 分）

（3）这两辆货车再运多少千克就达到 1000 千克了？（6 分）

荣德基好卷

关注微信公众号“教辅资料站”获取更多学习资料

专项能力提升卷5 简单的空间想象能力

班级_____ 姓名_____ 得分_____ 时间：40分钟 满分：100分

一、我会填。(每题4分，共28分)

1. 成语“四面八方”中的“四面”指的是(　　)、(　　)、(　　)、(　　)，“八方”除了“四面”所说的四个方向外，还包括(　　)、(　　)、(　　)、(　　)。

2. 李叔叔登上泰山顶观看日出，他面向太阳，前面是(　　)，左面是(　　)。

3. 搜救队向西南方向进行搜救，途中接到指令要求按原路返回，搜救队应向(　　)方向返回。

4. 红红面向北，她向右转，这时她面向(　　)，她的后面是(　　)。

5. 在长方形中，长边通常叫(　　)，短边通常叫(　　)。

6. 

7. 角有(　　)个顶点，(　　)条边。角的两边张口越大，角越(　　)；角的两边张口越(　　)，角越小。

二、分一分。(填序号)(8分)

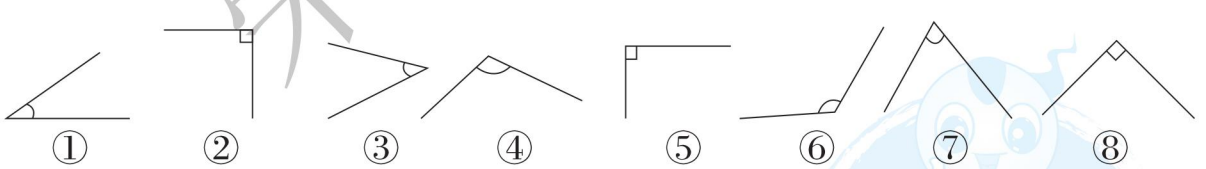

锐角有(　　)，直角有(　　)，钝角有(　　)。

三、我会辨。(对的在括号里画“√”，错的画“×”。每题4分，共20分)

1. 指南针是我国古代的四大发明之一，它是辨认方向的能手。(　　)
2. 东面和西面相对，东北面和西南面相对。(　　)
3. 平行四边形容易变形。(　　)
4. 四条边都相等的图形一定是正方形。(　　)
5. 长方形、正方形、平行四边形对边都分别相等。(　　)

关注微信公众号“教辅资料站”获取更多学习资料

四、动手操作，开发大脑。（共 16 分）

1. 在点子图上接着画。（每题 4 分，共 8 分）



画出一个平行四边形



画出一个钝角

2. （　　）号小棒可以摆成一个平行四边形。（8 分）

①  6厘米　　②  3厘米

③  5厘米　　④  4厘米

⑤  3厘米　　⑥  6厘米

五、我会辨认方向。（共 14 分）

1. 小猴住在森林俱乐部的（　　）面。（2 分）
2. 小鹿住在森林俱乐部的（　　）面。（2 分）
3. 老虎住在森林俱乐部的（　　）面。（2 分）
4. 小猫的东面住着（　　），西面住着（　　）。（4 分）
5. 小狗住在狮子的（　　）面，住在小兔的（　　）面。（4 分）

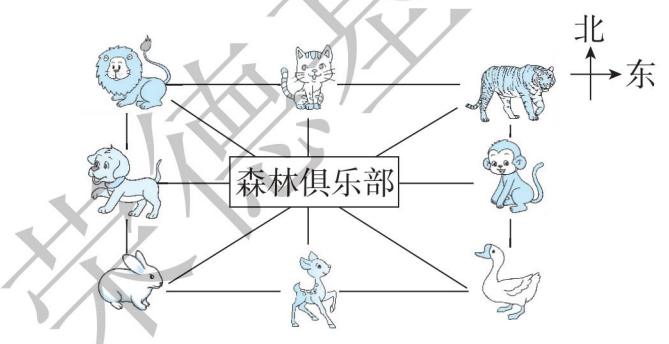

六、走进图形，解决问题。（14 分）

用一张长 3 厘米、宽 2 厘米的长方形纸片，折一个最大的正方形，正方形的边长是多少厘米？先动手画一画，再写出答案。

荣德基好卷

关注微信公众号“教辅资料站”获取更多学习资料

专项能力提升卷6 有余数的除法应用题强化练习

班级_____ 姓名_____ 得分_____ 时间：40分钟 满分：100分

一、我会填。（每题6分，共30分）

1. □÷△=☆……6，除数比10小，△最大是（　　），最小是（　　）。

2. 30个，每盘最多放7个，至少需要（　　）个这样的盘子。

3. ○△☆□○△☆□○……第17个图案是（　　）。

4. 在（　　）里填上合适的数。

（　　）÷7=8……4　　（　　）÷5=5……4

5. 看图填一填。

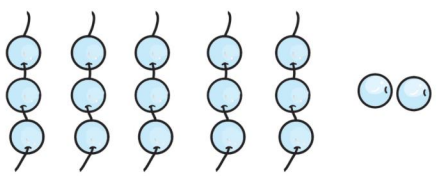

（1）17÷（　　）=（　　）（串）……（　　）（个）

（2）17÷（　　）=（　　）（个）……（　　）（个）

二、走进生活，解决问题。（共70分）

1. 张叔叔要生产45个零件，如果每天最多生产8个零件，至少需要多少天才能完成？（10分）

2. （10分）

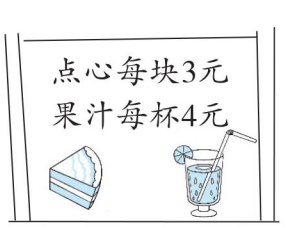

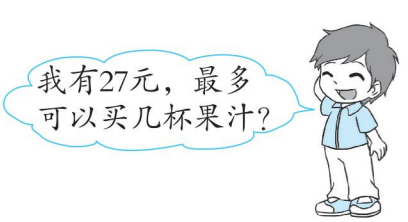

荣德基好卷

关注微信公众号“教辅资料站”获取更多学习资料

3. 小红穿了一串项链，她用了两种颜色的珠子按下面的规律穿，共用了 26 颗。黄色和蓝色珠子各用了几颗？（10 分）

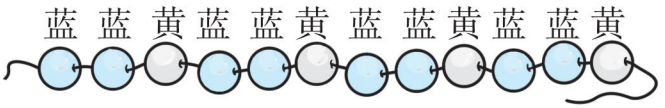

4. 一共有 23 人去划船。

（1）如果都租小船，至少要要租几条小船？（10 分）



大船限乘5人　小船限乘3人

（2）如果都租大船，至少要租几条大船？（10 分）

（3）还可以怎样安排租船呢？（10 分）

5.



各种糖果的数量

水果糖	软糖	奶糖
34颗	22颗	19颗

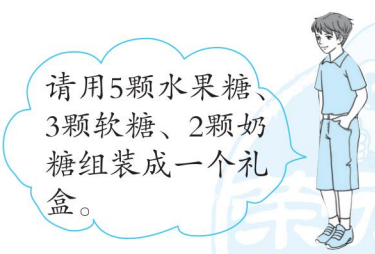

这些糖果最多可以组装成多少个这样的礼盒？（10 分）

荣德基好卷

关注微信公众号“教辅资料站”获取更多学习资料

专项能力提升卷7 加与减的应用题综合练习

班级_____ 姓名_____ 得分_____ 时间：40分钟 满分：100分

一、连一连。（每题2分，共12分）

370 − 60 ◯ 368 − 60　　203 − 40 ◯ 203 − 30　　469 − 71 ◯ 469 + 1

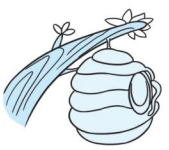

◯ > ◯ = ◯ <



582 + 30 ◯ 30 + 582　　611 + 200 ◯ 611 − 200　　800 − 20 ◯ 600 + 180

二、我会选。（把正确答案的序号填在括号里。每题4分，共12分）

1. 最小的三位数与最大的两位数的和是（　　）。

① 109　　② 199　　③ 299

2. 如右图，现价比原价便宜了（　　）元。



① 131　　② 149　　③ 49

3. 妈妈要购买3件商品，第1件商品305元，第2件商品278元，第3件商品的价格看不清楚，只知道最高位百位上的数是4，妈妈这次购物带（　　）元比较合适。

① 900　　② 1000　　③ 1100

三、走进生活，解决问题。（共76分）

1. （1）买一套这样的衣服，一共要花多少元？（7分）



159元　　207元

（2）妈妈付了400元，找回34元，对吗？（7分）

荣德基好卷

关注微信公众号“教辅资料站”获取更多学习资料

2. 下面是金星少年宫体育队男、女队员人数情况，看图提出一个数学问题，并解答。(9 分)

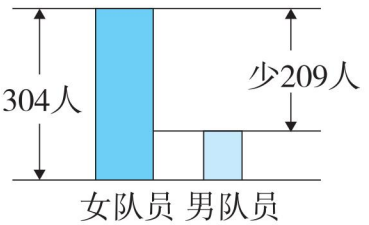

3. 叔叔的网店上午接了 267 个订单，下午接了 380 个订单。

(1) 估一估，今天准备 600 个快递单，(　　)。(填“够”或“不够”)(3 分)

(2) 算一算，今天一共接了多少个订单？(11 分)

4. (1) 估一估，用图中的钱买一把椅子后，剩下的钱还够再买一把同样的椅子吗？(9 分)

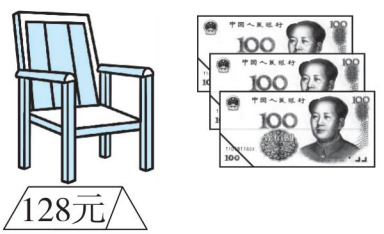

(2) 剩下多少元？(7 分)

5. (1) 买一件儿童上衣和一条裤子共花多少元？(6 分)



(2) 李阿姨带了 600 元，买一套西装后还剩下多少元？(7 分)



(3) 请你再提出一个数学问题，并解答。(10 分)

荣德基好卷

关注微信公众号“教辅资料站”获取更多学习资料

荣德基 好卷

参考答案及点拨

2年级 数学 下 BS版 （小卷）

周测培优卷 1

除法的计算能力检测卷

一、1. 余数　除数

2. 58

3. 7

4. 8　5　6　9　8　3

5. 4　8

```
      8
7 ) 6   0   —表示有60个松果
    5   6   —表示（分了56个松果）
        4   —表示（剩余4个松果）
```

二、1. 6　7　9　9

2. 33 ÷ 5=6……3

```
      6
5 ) 3   3
    3   0
        3
```

45 ÷ 9=5

```
      5
9 ) 4   5
    4   5
        0
```

23 ÷ 8=2……7

```
      2
8 ) 2   3
    1   6
        7
```

74 ÷ 8=9……2

```
      9
8 ) 7   4
    7   2
        2
```

37 ÷ 5=7……2

```
      7
5 ) 3   7
    3   5
        2
```

26 ÷ 3=8……2

```
      8
3 ) 2   6
    2   4
        2
```

三、1. ×　改正：

```
      7
6 ) 4   2
    4   2
        0
```

2. ×　改正：

```
      3
9 ) 3   1
    2   7
        4
```

四、

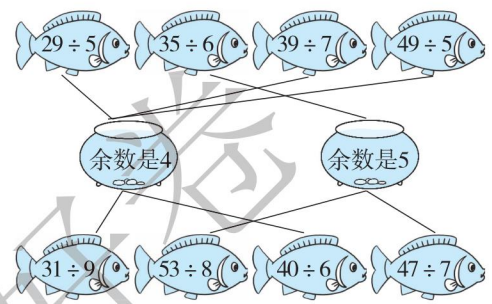

五、1. 3 × 8 = 24（个）

24 ÷ 9 = 2（袋）……6（个）

答：可以装 2 袋，还剩 6 个。

2. 17 ÷ 3 = 5（顶）……2（人）

5 + 1 = 6（顶）

答：至少要搭 6 顶帐篷。

周测培优卷 2

除法的应用能力检测卷

一、1. 6　5　3　6　6　9

2. 7　6

3. 1、2、3 或 4

4. 4　3

5. △

6. 4　4　6

【点拨】求再买的本数，列式是 5 × 6 − 24 = 6（本）。

荣德基好卷

关注微信公众号“教辅资料站”获取更多学习资料

二、53 ÷ 9 = 5……8　　68 ÷ 8 = 8……4

$$\begin{array}{r} 5 \\ 9\overline{)53} \\ 45 \\ \hline 8 \end{array}$$

$$\begin{array}{r} 8 \\ 8\overline{)68} \\ 64 \\ \hline 4 \end{array}$$

37 ÷ 6 = 6……1　　60 ÷ 7 = 8……4

$$\begin{array}{r} 6 \\ 6\overline{)37} \\ 36 \\ \hline 1 \end{array}$$

$$\begin{array}{r} 8 \\ 7\overline{)60} \\ 56 \\ \hline 4 \end{array}$$

三、4 × 3 + 2 = 14（个）

14 ÷ 4 = 3（盘）……2（个）

14 ÷ 3 = 4（个）……2（个）

四、1.

	可以摆几个图形	还剩几根小棒	算式
	6	2	20 ÷ 3 = 6(个)……2(根)
	5	0	20 ÷ 4 = 5(个)
	3	2	20 ÷ 6 = 3(个)……2(根)

2.（1）

苹果数/个	9	18	27	36	45	54
盘数/盘	1	2	3	4	5	6

（2）55 ÷ 9 = 6（盘）……1（个）

答：最多可以装 6 盘，还剩 1 个。

3.（1）60 ÷ 8 = 7（块）…… 4（元）

答：她最多可以买 7 块巧克力，还剩 4 元钱。

（2）8 − 4 = 4（元）

答：还差 4 元钱。

4.（1）50 ÷ 8 = 6（张）……2（元）

50 ÷ 6 = 8（张）……2（元）

答：50 元钱最多能买 6 张碰碰车票，用这些钱最多能买 8 张小火车票。

（2）30 + 1 = 31（人）

31 ÷ 4 = 7（条）……3（人）

7 + 1 = 8（条）

答：至少需要租 8 条小船。

周测培优卷 3

方向与位置能力检测卷

一、1. 北　南　西

2. 南　东　东南　东北

3. 南　西　东

4. 南　北

5. 北

6. 西　北

7. 东

二、1. ×

2. √

3. ×

4. √

三、1.

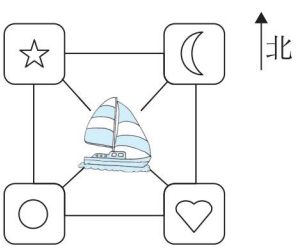

2.

9	6	7
4	1	2
5	3	8



四、1.（1）北　西

（2）东　南

（3）大象

2.

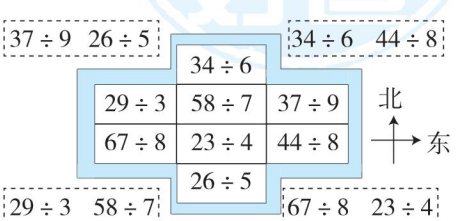

荣德基好卷

关注微信公众号“教辅资料站”获取更多学习资料

3. （1）东　南

（2）东南　东北

（3）西北　西南

周测培优卷 4

大数的读、写、意义的理解能力检测卷

一、2104　二千一百零四

1204　一千二百零四

10000　一万

二、1. 6 个十　6 个千

2. 4　840　408

3. 2016　2000

4. 6800　5400

5. 7058

6. （1）6000　7000

（2）2100　2120

（3）500　600

三、1. ②

2. ①

3. ③

4. ③

四、1.

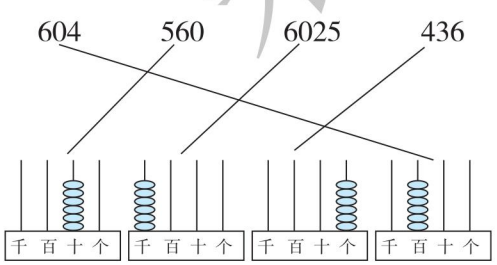

2. 5100

3.

图例	总数	做一做
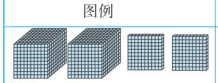	2203	
	3125	3125 = 3000 + 100 + 20 + 5
 10张	1000	买一部手机需要1200元，还需要再加 2 张。

周测培优卷 5

大数的比较和估计能力检测卷

一、1. 十　一百　10　10

2. （答案不唯一）9　7　9　3

3. >　=　>　<

4. 1699 元 < 1880 元 < 2888 元 < 3499 元

5. （1）380　381

（2）6370　6390

6. 5500　6000　6500　7500　8000

二、1. ②

2. ③

3. ③

4. ③

三、1. 100　300

2. 100

3. 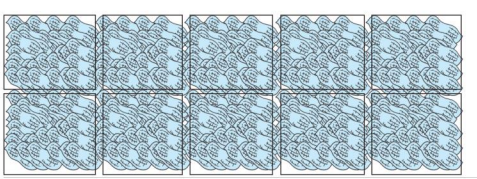

300

4. 8500　9000



5. 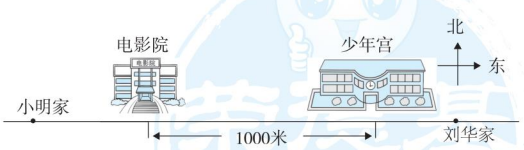

周测培优卷 6

测量能力检测卷

一、千米　米　千米　米　分米　千米

二、20　8000　90　6　7　3

三、<　<　<　=　>　<

荣德基好卷

关注微信公众号“教辅资料站”获取更多学习资料

四、1. 2　2　2

2.

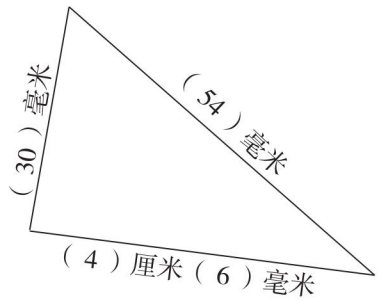



3.（1）5厘米5毫米

（2）39毫米

五、1. 60 + 40 = 100（千米）

答：这条公路长 100 千米。

2. 20 毫米 = 2 厘米

18 − 2 = 16（厘米）

答：还剩 16 厘米。

【点拨】问题是求还剩多少厘米，所以先把 20 毫米转化成 2 厘米。

周测培优卷 7

加与减的计算能力检测卷

一、1. 相同数位　个位

2. 加　减

3. 三　四

4. 623　351

5. ＞　＜　＜　＝

6. 236 + 666 ＞ 400 + 333 ＞ 917 − 356 ＞ 245 + 255

二、1. 330　520　920　2000

190　400　320　1400

2. 624+167=791

$$\begin{array}{r} 624 \\ +\ 167 \\ \hline 791 \end{array}$$

△435+385=820

$$\begin{array}{r} 435 \\ +\ 385 \\ \hline 820 \end{array}$$

验算：$\begin{array}{r} 820 \\ -\ 435 \\ \hline 385 \end{array}$

217−168=49

$$\begin{array}{r} 217 \\ -\ 168 \\ \hline 49 \end{array}$$

732−89=643

$$\begin{array}{r} 732 \\ -\ 89 \\ \hline 643 \end{array}$$

1000−402=598

$$\begin{array}{r} 1000 \\ -\ 402 \\ \hline 598 \end{array}$$

△802−349=453

$$\begin{array}{r} 802 \\ -\ 349 \\ \hline 453 \end{array}$$

验算：$\begin{array}{r} 453 \\ +\ 349 \\ \hline 802 \end{array}$

3.



4.

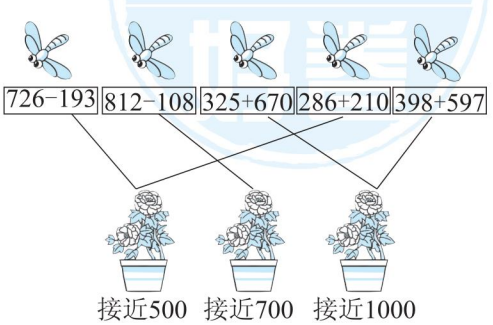

荣德基好卷

关注微信公众号“教辅资料站”获取更多学习资料

三、1. 900 − 185 = 715（米）

715 > 568　715 − 568 = 147（米）

答：王阿姨跑得多，多 147 米。

2. 145 − 58 = 87（筐）

87 + 145 = 232（筐）

答：这一天一共卖了 232 筐。

【点拨】“水果店有 350 筐苹果”是多余条件。

周测培优卷 8

加与减的应用能力检测卷

一、1. 400 − 286　114

2. 576 + 245　821

3. 100　【点拨】因为减数 + 差 = 被减数，所以 200 相当于两个被减数的和。

4. 200　213

5. 上届有多少幅作品获奖

425 + 49 = 474（幅）

二、58+429=487

$$\begin{array}{r} 58 \\ +\ 429 \\ \hline 487 \end{array}$$

△600−119=481

$$\begin{array}{r} 600 \\ -\ 119 \\ \hline 481 \end{array}$$

验算：

$$\begin{array}{r} 481 \\ +\ 119 \\ \hline 600 \end{array}$$

三、1. 歌舞类选手比语言类选手多多少名？

355 − 297 = 58（名）

答：歌舞类选手比语言类选手多 58 名。（答案不唯一）

2. （1）397 + 126 = 523（个）

523 + 397 = 920（个）

答：今天实际接了 920 个订单。

（2）920 − 880 = 40（个）

答：实际比预计多接了 40 个订单。

3. （1）把 379 看成 380，把 305 看成 310。

380 + 310 = 690（人）　690 < 700

答：能全部进入馆内。

（2）379 + 305 = 684（人）

答：去参观博物馆的学生一共有 684 人。

4. （1）小明：800 − 758 = 42（米）

小乐：800 − 569 = 231（米）

答：小明和小乐分别离终点 42 米、231 米。

（2）758 − 509 = 249（米）

答：小华落后小明 249 米。

周测培优卷 9

认识图形能力检测卷

一、1. 2　直

2. 正方形

3. 2　4

4. 所画边的长短　角的两边张开的大小

5.

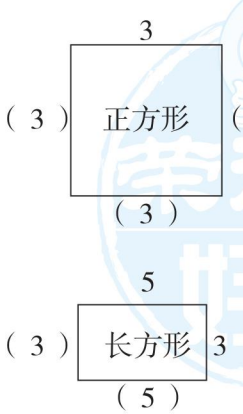

6. 平行四边形

7. 3　4　3

荣德基好卷

关注微信公众号“教辅资料站”获取更多学习资料

二、× × × √

三、1. ②

2. ③

3. ①

四、3 2 4

五、1. 长方形

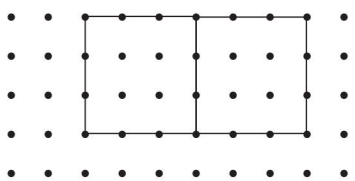

（拼出的图形不唯一）

2. （1）7

（2）6

六、6 3 5 8 3 1 2

周测培优卷 10

时、分、秒的理解能力检测卷

一、1. 1 1 60 1 时

2. 15 20

3. 240 3 80 2 70 1 40

4. （1）秒

（2）分

（3）时

（4）分

二、1. ②

2. ①

3. ②

4. ②

三、1. 6 时 30 分 3 时 20 分 2 时 40 分

6：30 3：20 2：40

2. （1）×

（2）√

（3）×

3. 25 85

四、1. 4 时 45 分 + 15 分 = 5 时

答：它下午 5 时到达。

2. 7 时 50 分 − 20 分 = 7 时 30 分

答：他最晚应在 7 时 30 分从家出发。

3. 9 时 45 分 − 8 时 30 分 = 1 时 15 分

答：演出用了 1 时 15 分。

4. 2 分 50 秒 > 2 分 16 秒

2 分 50 秒 − 2 分 16 秒 = 34 秒

答：小雨跑得快，快 34 秒。

周测培优卷 11

调查与记录能力检测卷

一、1. 8 9 5 6 13 7

2. 48

3. 体育

二、1. 7 4 5 4

2. 3 2 1 3

3. 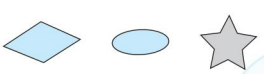

三、1. 18 13 17 20

2. 4 3

3. 冰红茶

四、1. 18

2. 漫画书 儿童文学

由上表记录可知各类书的借阅情况。

3. 多买一些漫画书。（答案不唯一，合理即可）

荣德基好卷

关注微信公众号“教辅资料站”获取更多学习资料

期末复习冲刺卷

专项能力提升卷 1　计算的挑战

一、1. 845　411

2. 275 + 368　643 − 275　643 − 368

3. 1000

4. （1）812

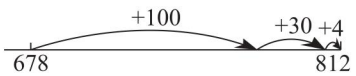

（2）245

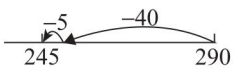

5. △　□

6. 5　8　3

二、1. 80　260　420　5　543　740　8

8……2

2. 58 ÷ 6=9……4

```
   9
6 ) 5 8
  5 4
  ---
    4
```

76 ÷ 9=8……4

```
   8
9 ) 7 6
  7 2
  ---
    4
```

45 ÷ 6=7……3

```
   7
6 ) 4 5
  4 2
  ---
    3
```

843+175=1018

```
  8 4 3
+ 1 7 5
-------
1 0 1 8
```

973−347=626

```
  9 7 3
- 3 4 7
-------
  6 2 6
```

△905−735=170

```
  9 0 5
- 7 3 5
-------
  1 7 0
```

验算：

```
  1 7 0
+ 7 3 5
-------
  9 0 5
```

三、1. 900 − 779 = 121（元）

答：现在买洗衣机比原来便宜 121 元。

2. 32 + 25 = 57（人）

57 ÷ 9 = 6（条）……3（人）

6 + 1 = 7（条）

答：至少要租 7 条船。

3. 650 + 485 = 1135（元）

650 − 485 = 165（元）

答：买一套桌椅共需 1135 元，一张办公桌比一把椅子贵 165 元。

4.

轮船	波音 777 飞机	高铁
3000 人	392 人	600 人

专项能力提升卷 2　单位的转化

一、1. 分　分米　秒　毫米

2. 10　分米

3. 4　5

4. 2　【点拨】注意单位的不同。

二、1. ×

2. ×

3. √

三、1. ③

2. ④

3. ③

四、1.

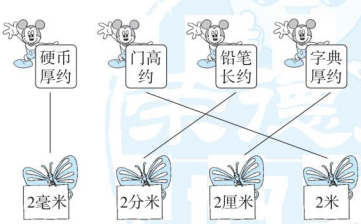

2. <　>　<　=　=　>

五、1.

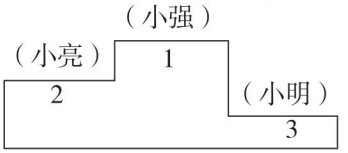

荣德基好卷

关注微信公众号“教辅资料站”获取更多学习资料

2．（1）11 时 －8 时 30 分 =2 时 30 分

答：上午马戏团开放 2 时 30 分。

【点拨】被减数的“分”不够减，就从“时”借 1 时当 60 分后再减。

（2）4 时 30 分 －2 时 =2 时 30 分

答：下午马戏团开放 2 时 30 分。

专项能力提升卷 3　统计与概率

一、1．39　2．春　冬

3．最好安排在春季。

二、1．

			
正一	正下	丅	正正

（记录方法不唯一）

2．

器材				
个数	6	8	4	10

3．2　4

三、1．篮　排

2．28 +26 +14 +17 =85（个）

答：四种球一共卖了 85 个。

四、1．一级：14 天　二级：11 天

三级：5 天

2．一级。

3．11 >5　11 －5 =6（天）

答：空气质量为二级的天数多，多 6 天。

五、1．33　2．王刚　李松

3．王刚有可能当上班长，因为他的票数最多。

专项能力提升卷 4　熟练理解万以内的数

一、1．1500　120

2．8239　8241　5999　6001　918　920

3．9050

4．7541　1045

5．8　6　2

二、8070　6398　3587　2073　908　496

三、800　200　150　4000　700　6100

四、1．489 <500　495 <500

500 +500 =1000（个）

1000 <1100

489 +495 <1100

答：做这些彩蛋给超市不够。

2．（1）

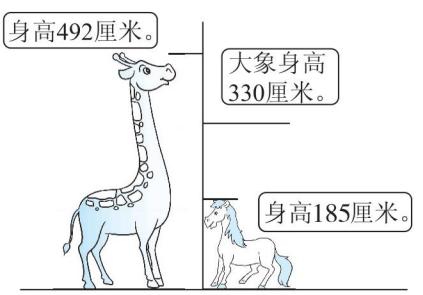

（2）长颈鹿的身高比大象的身高高多少厘米？

492 －330 =162（厘米）

答：长颈鹿的身高比大象的身高高 162 厘米。

（答案不唯一）

3．（1）456 －289 =167（千克）

答：小货车比大货车少运 167 千克。

（2）456 +289 =745（千克）

答：它们一共运了 745 千克。

关注微信公众号“教辅资料站”获取更多学习资料

（3）1000 − 745 = 255（千克）

答：这两辆货车再运 255 千克就达到 1000 千克了。

专项能力提升卷 5　简单的空间想象能力

一、1. 东　南　西　北　东北　西北　东南　西南

2. 东　北　**【点拨】**面向太阳时，前面是东，右面是南，左面是北，后面是西。

3. 东北

4. 东　西

5. 长　宽

6.

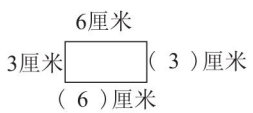

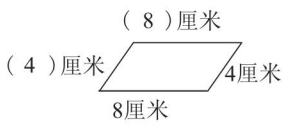

7. 1　2　大　小

二、①③⑦　②⑤⑧　④⑥

三、1. √

2. √

3. √

4. ×

5. √

四、1.



画出一个平行四边形

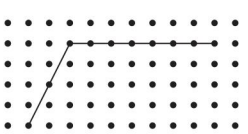

画出一个钝角　（答案不唯一）

2. ①②⑤⑥

五、1. 东

2. 南

3. 东北

4. 老虎　狮子

5. 南　北

六、画图如下：

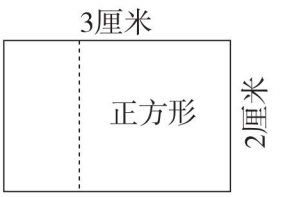

正方形的边长是 2 厘米。

专项能力提升卷 6　有余数的除法应用题强化练习

一、1. 9　7　**【点拨】**余数要比除数小，余数是 6，除数最小是 7。

2. 5

3. ○

4. 60　29

5.（1）3　5　2

（2）5　3　2

二、1. 45 ÷ 8 = 5（天）……5（个）

5 + 1 = 6（天）

答：至少需要 6 天才能完成。

【点拨】剩下的 5 个零件还需要做 1 天，因此至少需要 5 + 1 = 6（天）。

2. 27 ÷ 4 = 6（杯）……3（元）

答：最多可以买 6 杯果汁。

3. 26 ÷ 3 = 8（组）……2（颗）

蓝：8 × 2 + 2 = 18（颗）

荣德基好卷

关注微信公众号“教辅资料站”获取更多学习资料

黄：8×1=8（颗）

答：蓝色珠子用了18颗，黄色珠子用了8颗。

【点拨】 3颗珠子为1组，其中有2颗蓝色珠子，1颗黄色珠子。

4. （1）23÷3=7（条）……2（人）

7+1=8（条）

答：至少要租8条小船。

（2）23÷5=4（条）……3（人）

4+1=5（条）

答：至少要租5条大船。

（3）23−3=20（人）

20÷5=4（条）

答：还可以租1条小船和4条大船。

（答案不唯一）

5. 34÷5=6（个）……4（颗）

22÷3=7（个）……1（颗）

19÷2=9（个）……1（颗）

6<7<9

答：这些糖果最多可以组装成6个这样的礼盒。

专项能力提升卷7　加与减的应用题综合练习

一、

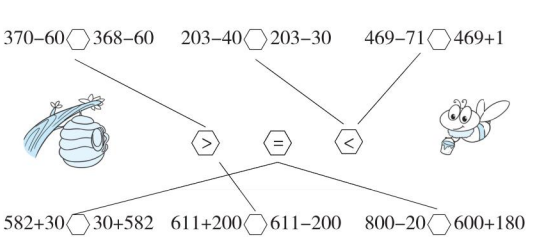

二、1. ②　2. ①　3. ③

三、1. （1）207+159=366（元）

答：一共要花366元。

（2）400−366=34（元）

34=34

答：对。

2. 男队员有多少人？

304−209=95（人）

答：男队员有95人。

（答案不唯一）

3. （1）不够

（2）267+380=647（个）

答：今天一共接了647个订单。

4. （1）把128看成130。

300−130=170（元）

170>128

答：剩下的钱还够再买一把同样的椅子。

（2）300−128=172（元）

答：剩下172元。

5. （1）178+135=313（元）

答：买一件儿童上衣和一条裤子共花313元。

（2）600−362=238（元）

答：买一套西装后还剩下238元。

（3）买一件儿童上衣和一条裙子共花多少元？

178+216=394（元）

答：买一件儿童上衣和一条裙子共花394元。

（答案不唯一）

荣德基好卷

关注微信公众号“教辅资料站”获取更多学习资料