好卷



数学

二年级 下 SJ版

主 编：荣德基　　本册主编：金干周

吉林教育出版社



目录

同步跟踪检测卷

大卷

☆单元检测卷（7套）

第一单元跟踪检测卷 …… 1
第二、三单元跟踪检测卷 …… 3
第四单元跟踪检测卷 …… 5
期中检测卷 …… 7
第五单元跟踪检测卷 …… 9
第六单元跟踪检测卷 …… 11
第七、八单元跟踪检测卷 …… 13

小卷

☆周测培优卷（10套）

◆有余数的除法 …… 1
◆时、分、秒 …… 3
◆认识方向 …… 5
◆万以内数的认识及组成 …… 7
万以内数的大小比较及简单的近似数 …… 9
◆认识分米和毫米、简单的单位换算 …… 11
◆两位数加减两位数的计算及解决实际问题 …… 13
三位数加减两、三位数的笔算及解决实际问题 …… 15
◆直角、锐角和钝角 …… 17
◆简单的数据的收集和整理 …… 19

期末复习冲刺卷

大卷

☆模块过关卷（2套）

数与代数　统计 …… 15
图形与几何 …… 17

☆仿真模拟卷（4套）

仿真模拟卷（一） …… 19
仿真模拟卷（二） …… 21
江苏省某名校期末测试卷 …… 23
山西省某名校期末测试卷 …… 25

参考答案及点拨 …… 27

小卷

☆专项复习卷（5套）

认识万以内的数 …… 21
有余数的除法和两、三位数的加减法 …… 23
时、分、秒与分米和毫米 …… 25
角的初步认识和认识方向 …… 27
两步计算的加减法的实际问题与数据的收集和整理 …… 29

☆满分压轴卷（2套）

常考易错突破卷（一） …… 31
常考易错突破卷（二） …… 33

参考答案及点拨 …… 35

好卷　全面测评　环环相扣有抓手　专项突破　重难易错不失分

荣德基　微信公众号好卷　教辅资料站

关注微信公众号“教辅资料站”获取更多学习资料

荣德基 好卷

第一单元 跟踪检测卷

有余数的除法

二年级 数学 下 SJ版

时间：60分钟　满分：100分+10分

题号	一	二	三	四	五	六	附加题	总分
得分								

姓名　学号　班级　学校

密　封　线

温馨提示：请不要在密封线内答题哦！

一、填空。（每空1分，共14分）

1. 

（1）13个，每5个一份，可以分成（　　）份，还剩（　　）个。

13÷5=□（份）……□（个）

（2）13个，分成2份，每份（　　）个，还剩（　　）个。

13÷2=□（个）……□（个）

2. 在算式19÷6=3……1中，商是（　　），余数是（　　）。

3. 在□÷5=□……□中，余数最大是（　　）。

4. 16里面最多有（　　）个3，34里面最多有（　　）个8。

5. 38颗糖，最少再添上（　　）颗后就能正好平均分给8个小朋友。

二、判断。（对的在括号里打“√”，错的打“×”。每题2分，共10分）

1. 32÷6=4……8　　（　　）

2. 除数是7，余数一定是6。　　（　　）

3. 在□÷6=7……□中，被除数最大是48。　　（　　）

4. 妈妈准备买16千克油，用能装5千克的油桶去装，至少要用3个这样的油桶才能一次买回这些油。　　（　　）

5. 修一条长35米的水渠，每天修6米，最少要修6天。　　（　　）

三、选择。（将正确答案的序号填在括号里。每题2分，共10分）

1. 下列计算正确的是（　　）。

① 34÷5=6……4　　② 43÷8=4……11　　③ 45÷6=6……9

2. 下面各数除以9没有余数的是（　　）。

① 55　　② 81　　③ 29

3. 在算式☆÷□=□……4中，除数可以是（　　）。

① 5　　② 1　　③ 4

4. 有一篮苹果，平均分给6个小朋友，如果每个小朋友分7个，那么还剩3个，这篮苹果一共有（　　）个。

① 21　　② 42　　③ 45

5. 27个同学去玄武湖公园划船，每条船只能坐8个同学，至少要租（　　）条船。

① 3　　② 4　　③ 5

四、计算。（共27分）

1. 直接写出得数。（每题1分，共15分）

4×3=	64÷8=	24÷4=
4+4=	21÷3+6=	40÷8=
36÷9=	9÷9=	2×9=
5×7+6=	9×5=	36÷6=
32−8=	42÷7=	27÷3+6=

2. 用竖式计算。（每题4分，共12分）

19÷6=　　71÷9=　　37÷6=

荣德基好卷　微信公众号 教辅资料站　关注微信公众号“教辅资料站”获取更多学习资料

五、找一找，连一连。（8 分）

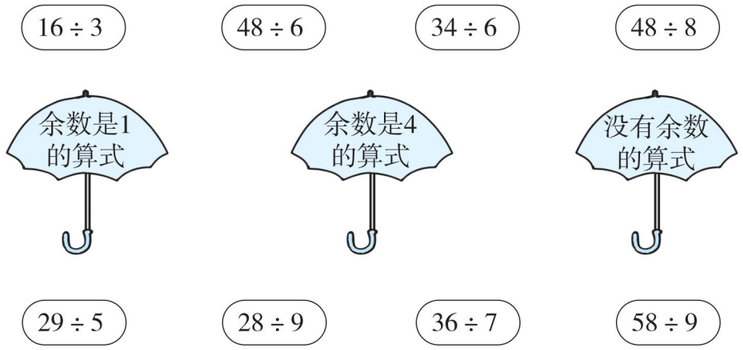

六、解决实际问题。（共 31 分）

1. 把 14 本《童话故事》送给幼儿园的 6 个小朋友，平均每个小朋友分得几本？还剩多少本？（5 分）



2. 食堂买来 40 袋面粉，如果每天吃 7 袋，可以吃几天？还剩几袋？如果每天吃 6 袋呢？（6 分）

3. 53 人一起吃饭，至少需要多少张这样的桌子？（5 分）

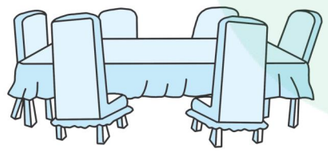

4. 盐城小学为了美化校园环境，买来 75 盆花，至少拿走几盆后，正好平均分给 9 个班？（5 分）

5. 一个旅行团乘车去机场。



小轿车
（限乘客4人）



面包车
（限乘客7人）



（1）如果都坐面包车，可以坐满几辆？还剩几人？（5 分）

（2）如果都坐小轿车，至少需要几辆车？（5 分）

附加题：（10 分）

在□里填上合适的数字，使竖式成立。

```
   □
7 ) 3 □
    2 8
      2
```

```
      8
□ ) 5 7
    □ □
      1
```

荣德基好卷
微信公众号
教辅资料站
关注微信公众号“教辅资料站”获取更多学习资料

自己说说
老师点评
家长点评
密 封 线

荣德基 好卷 二年级 数学 下 SJ版

第二、三单元 跟踪检测卷

时、分、秒　认识方向

时间：60分钟　满分：100分+10分

题号	一	二	三	四	五	六	七	八	附加题	总分
得分										

姓名　学号　班级　学校　密　封　线

温馨提示：请不要在密封线内答题哦！

一、单位换算。（每空1分，共4分）

60秒 = （　　）分　　3分 = （　　）秒

1时 = （　　）分　　120分 = （　　）时

二、填空。（每空1分，共22分）

1. 钟面上，时针指在6和7之间，分针指着6，表示的时间是（　　）；时针接近8，分针指着11，表示的时间是（　　）。

2. 分针从3走到8，走了（　　）分；时针从3走到8，走了（　　）时。

3. 一节课的时间是40分钟，课间是10分钟，再经过（　　）分钟就是1小时。

4. 晚上，当你面对着北极星的时候，你的后面是（　　）面，你的右面是（　　）面，你的左面是（　　）面。

5. 看图回答问题。



小丽朗读一首诗大约要30秒。



小勇录完一篇稿子正好用了5分钟。



小亮踢一场足球比赛大约需要1小时25分钟。

（1）小丽朗读四首诗大约要（　　）秒，合（　　）分钟。

（2）小勇录完一篇稿子的时间，分针要走（　　）大格，秒针要走（　　）圈。

（3）小亮踢一场足球比赛的时间大约是（　　）分钟。

6. 在○里填上“>”“<”或“=”。

7时○7分　　2分○100秒　　30分○半小时

7. 在（　　）里填上合适的单位。

（1）琳琳每天大约睡9（　　）。（2）唱一首歌大约要用3（　　）。

（3）跳20下绳约用15（　　）。（4）播放一集动画片约用25（　　）。

（5）吃饭大约要用30（　　）。（6）小学生每天写作业约用30（　　）。

三、选择。（将正确答案的序号填在括号里。每题2分，共10分）

1. 太阳下菲菲的影子在她的东面，太阳在她的（　　）面。

① 东　　② 西　　③ 南

2. 兰兰从家出发，先向南走了一段，又向西走了一段，就到了超市，超市在兰兰家的（　　）面。

① 西北　　② 东南　　③ 西南

3. 分针从一个数字走到相邻的下一个数字，经过的时间是（　　）。

① 1分钟　　② 5分钟　　③ 1小时

4. 分针指着3，时针刚经过5，这时的时间是（　　）。

① 5：30　　② 5：15　　③ 3：25

5. 妈妈洗衣服用了20分钟，做饭用了30分钟，再休息（　　）分钟正好是1小时。

① 10　　② 20　　③ 50

四、写出下面钟面上的时间。（每题2分，共12分）



____时____分

____：____



____时____分

____：____



____时____分

____：____



____时____分

____：____



____时____分

____：____



____时____分

____：____

荣德基好卷　微信公众号　教辅资料站
关注微信公众号“教辅资料站”获取更多学习资料

五、给钟面画上缺少的分针，再根据规律在第 4 个钟面上画时针和分针，并写出时间。（每题 2 分，共 8 分）



3：00　　3：15　　3：30　　（　　）

六、看图填空。（每空 2 分，共 18 分）

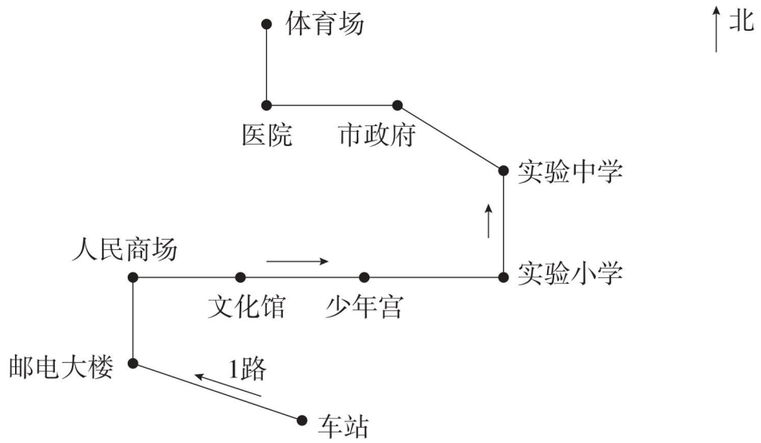

1. 1 路公共汽车从车站出发，向（　　）面行驶到邮电大楼，再向（　　）面行驶到人民商场。
2. 体育场在医院的（　　）面，医院在体育场的（　　）面。
3. 实验中学在实验小学的（　　）面，从人民商场去邮电大楼应向（　　）面走，从邮电大楼到车站应向（　　）面走。市政府在医院的（　　）面，在实验中学的（　　）面。

七、画一画，填一填。（7 分）

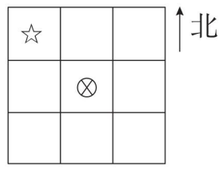

1. 在⊗的东南面画一个△，在⊗的西南面画一个○，在⊗的东北面画一个□。
2. ☆在⊗的（　　）面，⊗在☆的（　　）面。
3. □的西南面有（　　）和（　　）。

八、解决实际问题。（共 19 分）

1. 蜗牛每小时爬行 9 米，从蜗牛家到湖边一共有多少米？（6 分）

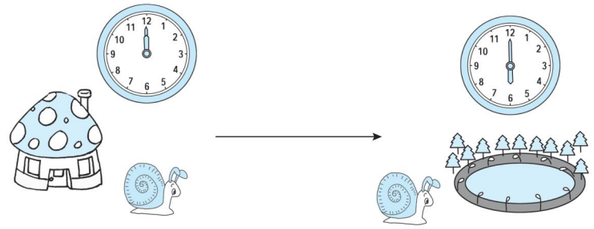

2. 六一儿童节文艺汇演要演出 1 小时，已经演出了 50 分，文艺汇演还有多长时间结束？（6 分）

3. 王阿姨加工一个零件需要 6 分，照这样计算，半小时她能加工多少个零件？（7 分）

附加题：（10 分）

1. 兰兰家和王芳家都在学校的东面，兰兰家离学校 500 米，王芳家离学校 300 米，兰兰家和王芳家相距（　　）米。
2. 1 个人吃 1 块糖要用 3 分，1 个人吃 8 块糖要用（　　）分，8 个人同时各吃 1 块糖要用（　　）分。

荣德基好卷
微信公众号
教辅资料站
关注微信公众号“教辅资料站”获取更多学习资料

自己说说　老师点评　家长点评

密　封　线

荣德基 好卷

二年级 数学 下 SJ版

第四单元 跟踪检测卷

认识万以内的数

时间：60分钟　满分：100分+10分

题号	一	二	三	四	五	六	附加题	总分
得分								

姓名　学号　班级　学校

密　封　线

豆点提示：请不要在密封线内答题哦！

一、直接写出得数。（每题1分，共12分）

300 + 400 =	50 + 500 =	1600 − 600 =
380 − 80 =	4500 − 500 =	6300 − 6000 =
7700 − 7000 =	800 + 2000 =	1300 − 300 =
400 + 40 =	900 − 500 =	3000 + 7000 =

二、填空。（每空1分，共40分）

1. 2802是（　　）位数，读作（　　），它的最高位是（　　）位，它是由（　　）个千、（　　）个百和（　　）个一组成的。

2. 由8个千、4个百、6个十和3个一组成的数是（　　）。

   4030里面有4个（　　）和3个（　　）。

3. 20个十是（　　）；（　　）个百是1000。

   8000里有（　　）个千，再添上（　　）个千就是10000。

4. 比800小1的数是（　　）；比最大的三位数大1的数是（　　）。

5. 与4599相邻的两个数是（　　）和（　　）。

6. 按从大到小的顺序排列下面电器的价格。



2560元　1999元　2686元　2403元　789元

（　　）>（　　）>（　　）>（　　）>（　　）

7. 用5、0、6、0这四个数组成四位数，不读“零”的是（　　）和（　　），只读一个“零”的是（　　）、（　　）、（　　）和（　　），最接近5000的数是（　　）。

8. 在○里填上“>”或“<”。

   1050 ○ 968　　3006 ○ 3600

   9999 ○ 10000　　8105 ○ 8110

9. □里最小能填几？

   18□ > 185　　□000 > 4981　　3490 < 3□68

10. 写出下面各数约等于几百或几千。

    594≈（　　）　5098≈（　　）　993≈（　　）　9188≈（　　）

三、看图写数。（每题2分，共8分）

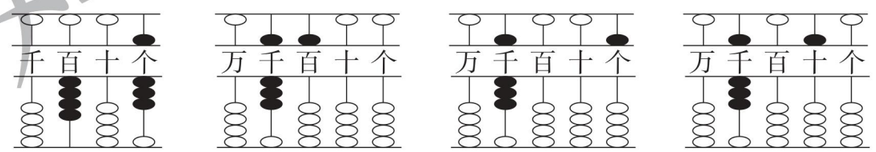

（　　）　（　　）　（　　）　（　　）

四、按规律填数。（每空1分，共12分）

1. 10000，9900，（　　），（　　），9600，（　　）。

2. 2900，（　　），2920，2930，（　　）。

3. 350，400，（　　），（　　），550。

4. 608，（　　），588，578，（　　）。

5. 371，374，（　　），（　　），（　　）。

五、选择。（将正确答案的序号填在括号里。每题2分，共8分）

1. 3879中的“8”表示（　　）。

   ① 8个一　　② 8个十　　③ 8个百

2. 下列各数中只读出一个“零”的是（　　）。

   ① 990　　② 9009　　③ 9100

荣德基好卷　微信公众号教辅资料站
关注微信公众号“教辅资料站”获取更多学习资料

3. 一个四位数，千位和个位上都是1，其他数位上都是0，这个数是(　　)。

① 1010　　② 1001　　③ 1100

4. 用3、6、4可以组成（　　）个不同的三位数。

① 4　　② 6　　③ 8

六、解决实际问题。（共20分）

1. 新华书店新进4000本《童话故事》，《开心乐园》比《童话故事》多进700本，《开心乐园》进了多少本？（3分）

2. 实验学校有男生2300人，女生2000人，已经参加体检的有3000人，没有参加体检的有多少人？（3分）

3. 图书室各种图书本数统计如下表：

童话书	科技书	故事书
4025	1952	2756

（1）每种图书各接近几千本？（3分）

（2）最多的图书比最少的图书大约多几千本？（3分）

（3）你还能提出什么数学问题？提出并解答。（2分）

4.

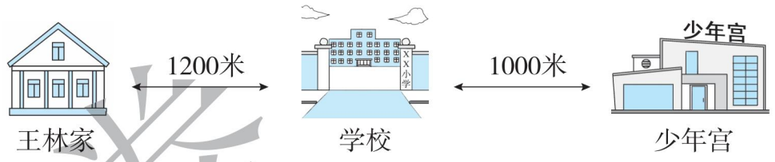

（1）王林每天上午去学校，下午放学回家，他一天来回要走多少米？（3分）

（2）王林从家出发经过学校到少年宫，要走多少米？（3分）

附加题：（10分）

有一个四位数，它的个位、十位、百位、千位上的数字加起来是24，这个四位数最大是多少？最小是多少？

荣德基好卷
荣德基好卷
荣德基好卷
微信公众号
教辅资料站
关注微信公众号“教辅资料站”获取更多学习资料
自己说说
老师点评
家长点评
密
封
线

荣德基 好卷

期中 检测卷

二年级 数学 下 SJ版

时间：60分钟　满分：100分+10分

题号	一	二	三	四	五	附加题	总分
得分							

姓名　学号　班级　学校　密　封　线

一、计算。（共20分）

1. 直接写得数。（每题1分，共12分）

420－20＝	200＋60＝	3300－300＝	800－300＝
600－400＝	400＋600＝	1100－100＝	600＋2000＝
500－300＝	6700－6000＝	380－80＝	9800－800＝

2. 用竖式计算。（每题2分，共8分）

58÷6＝　　35÷4＝　　43÷7＝　　63÷9＝

二、填空。（第1题3分，其余每空1分，共35分）

1. 先圈一圈，再填一填。



14个 ，每4个一份，分了（　　）份，还剩（　　）个。

2. 在钟面上，时针从12走到5走了（　　）时；分针从3走到9走了（　　）分。

3. 6个千、8个十和5个一合起来是（　　），一万里面有10个（　　）。

4. 54里面最多有（　　）个7，43里面最多有（　　）个5。

5. 3459里面有（　　）个千、（　　）个百、（　　）个十和（　　）个一。

6. 在（　　）里填上合适的时间单位。

（1）王老师从家步行到学校用20（　　）。

（2）小学生每天在校时间为6（　　）。

（3）明明等红灯用了30（　　）。

（4）看一场电影用了2（　　）。

7. 当你面向南时，你的后面是（　　），左面是（　　），右面是（　　）。

8. 最大的两位数与最小的三位数的和是（　　）。

9. 从 0、4、4、7 中任意选出三张卡片组成不同的三位数，其中最小的数是（　　），最大的数是（　　）。

10. 在（　　）里填上合适的数。

3分＝（　　）秒　　2时＝（　　）分

60分＝（　　）时　　60秒＝（　　）分

11. 根据规律，在（　　）里填上合适的数。

（1）8700，8800，8900，（　　），（　　）。

（2）7030，7020，7010，（　　），（　　）。

（3）1707，1708，1709，（　　），（　　）。

12. 在□÷□＝4……3中，除数最小是（　　），这时被除数是（　　）。

三、选择。（将正确答案的序号填在括号里。每题2分，共8分）

1. 3□8 ＞ 329，□里最小填（　　）。

① 3　　② 0　　③ 2

2. 274里的“4”表示（　　）。

① 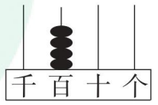

② 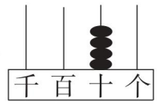

③ 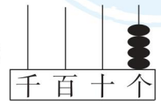

3. 分针从9走到12，经过的时间是（　　）。

① 3分钟　　② 15分钟　　③ 3小时

4. 张丽面向西南方向站立，当她向后转之后，她的前面是（　　）方向。

① 东北　　② 西北　　③ 东南



荣德基好卷
微信公众号 教辅资料站
关注微信公众号“教辅资料站”获取更多学习资料

四、观察操作题。（共 8 分）

1. 想一想，填一填。

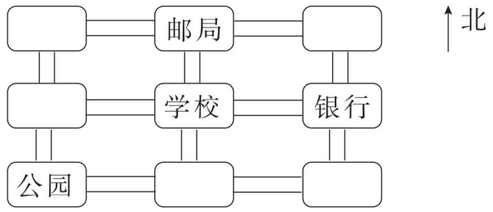

（1）学校的（　　）面是银行；学校在公园的（　　）面。（2 分）

（2）在图上标出广场、商场的位置。（2 分）

学校的西北面是广场；商场在学校的东南面。

2. 写出前两个钟面上的时间，并根据所给时间画出后两个钟面中缺少的分针。（4 分）



____：____　　____：____　　1：05　　6：45

五、解决实际问题。（共 29 分）

1.

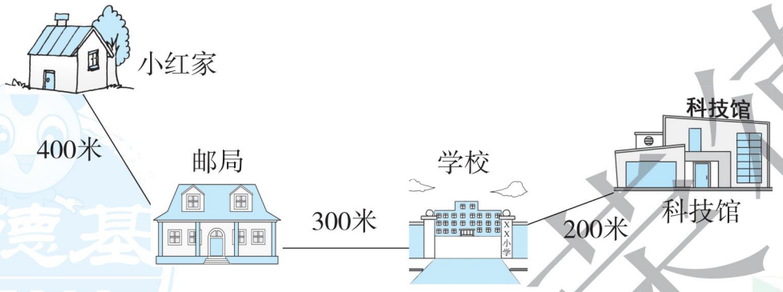

小红从邮局出发，经过学校再到科技馆，走了多少米？（5 分）

2. 5 元可以买几块这样的橡皮？再加几角可以多买一块橡皮？（6 分）

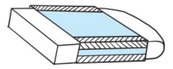

8角

3. 学校组织二年级学生去参观博物馆。上午去了 240 人，下午去的人数比上午少 40 人，下午去了多少人？（6 分）

4.



398元　　214元　　292元　　186元

（1）买一台微波炉和一台电风扇大约需要几百元？（6 分）

（2）估一估，爸爸带了 500 元，买一辆自行车和一台电吹风，够不够？（6 分）

附加题：（10 分）

一个三位数相邻两个数字的和都是 10，百位、十位、个位上的数字和是 16，这个三位数是多少？

自己说说
老师点评
家长点评
密
封
线

荣德基好卷
荣德基好卷
荣德基好卷
微信公众号
教辅资料站
关注微信公众号“教辅资料站”获取更多学习资料

荣德基 好卷

参考答案及点拨

二年级 数学 下 SJ版 （大卷）

第一单元跟踪检测卷

有余数的除法

一、1.（1）2　3　2　3

（2）6　1　6　1

2. 3　1

3. 4　【点拨】在有余数的除法算式中，余数要比除数小。

4. 5　4

5. 2　【点拨】38 ÷ 8 = 4（颗）……6（颗）

8 − 6 = 2（颗）

二、1. ×　2. ×　3. ×　4. ×　5. √

三、1. ①　2. ②　3. ①

4. ③　【点拨】6 × 7 + 3 = 45（个）

5. ②　【点拨】27 ÷ 8 = 3（条）……3（个），3 条船坐不下，还剩 3 个同学，所以要租 3 + 1 = 4（条）船。

四、1. 12　8　6　8　13　5　4　1　18　41

45　6　24　6　15

2. 19 ÷ 6 = 3……1　　71 ÷ 9 = 7……8

$$\begin{array}{r} 3 \\ 6\overline{)19} \\ \underline{18} \\ 1 \end{array}$$

$$\begin{array}{r} 7 \\ 9\overline{)71} \\ \underline{63} \\ 8 \end{array}$$

37 ÷ 6 = 6……1

$$\begin{array}{r} 6 \\ 6\overline{)37} \\ \underline{36} \\ 1 \end{array}$$

五、

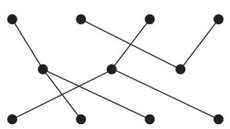

六、1. 14 ÷ 6 = 2（本）……2（本）

答：平均每个小朋友分得 2 本，还剩 2 本。

2. 40 ÷ 7 = 5（天）……5（袋）

答：可以吃 5 天，还剩 5 袋。

40 ÷ 6 = 6（天）……4（袋）

答：可以吃 6 天，还剩 4 袋。

3. 53 ÷ 6 = 8（张）……5（人）

8 + 1 = 9（张）

答：至少需要 9 张这样的桌子。

【点拨】如果 8 张桌子的话会剩下 5 人，所以还要多准备一张桌子。

4. 75 ÷ 9 = 8（盆）……3（盆）

答：至少拿走 3 盆后，正好平均分给 9 个班。

【点拨】平均分给 9 个班，每个班分 8 盆，还剩 3 盆，把剩的 3 盆拿走正好平均分给 9 个班。

5.（1）25 ÷ 7 = 3（辆）……4（人）

答：可以坐满 3 辆，还剩 4 人。

（2）25 ÷ 4 = 6（辆）……1（人）

6 + 1 = 7（辆）

答：至少需要 7 辆车。

附加题：

$$\begin{array}{r} \boxed{4} \\ 7\overline{)\boxed{3}\boxed{0}} \\ \underline{2\ 8} \\ 2 \end{array}$$

$$\begin{array}{r} 8 \\ \boxed{7}\overline{)5\ 7} \\ \underline{\boxed{5}\boxed{6}} \\ 1 \end{array}$$

第二、三单元跟踪检测卷

时、分、秒　认识方向

一、1　180　60　2

二、1. 6：30　7：55　2. 25　5

3. 10　4. 南　东　西

5.（1）120　2　（2）1　5　（3）85

6. >　>　=

7.（1）时　（2）分　（3）秒

（4）分　（5）分　（6）分

三、1. ②　2. ③　3. ②　4. ②　5. ①

四、7 时 15 分　7：15　4 时 55 分　4：55

3 时 30 分　3：30　8 时 15 分　8：15

5 时 55 分　5：55　12 时零 5 分　12：05

五、



六、1. 西北　北　2. 北　南

3. 北　南　东南　东　西北

七、1.

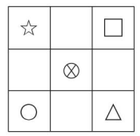

2. 西北　东南　3. ⊗　○

八、1. 6 × 9 = 54（米）

答：从蜗牛家到湖边一共有 54 米。

【点拨】从图上可以看出时间从 12 时走到 6 时，经过了 6 小时。

2. 1 小时 = 60 分　60 − 50 = 10（分）

答：文艺汇演还有 10 分结束。

3. 半小时 = 30 分　30 ÷ 6 = 5（个）

答：半小时她能加工 5 个零件。

附加题：1. 200　【点拨】

2. 24　【点拨】3 × 8 = 24（分）

3　【点拨】因为 8 个人是同时吃的，所以和 1 个人吃 1 块糖的时间是一样的。

第四单元跟踪检测卷

认识万以内的数

一、700　550　1000　300　4000　300　700　2800　1000　440　400　10000

二、1. 四　二千八百零二　千　2　8　2

2. 8463　千　十　3. 200　10　8　2

4. 799　1000　5. 4598　4600

6. 2686 元　2560 元　2403 元　1999 元　789 元

7. 5600　6500　5060　6050　5006　6005　5006

8. >　<　<　<

9. 6　5　5

10. 600　5000　1000　9000

三、408　8500　8005　8050

四、1. 9800　9700　9500

2. 2910　2940　3. 450　500

4. 598　568　5. 377　380　383

五、1. ③　2. ②　3. ②　4. ②

六、1. 4000 + 700 = 4700（本）

答：《开心乐园》进了 4700 本。

2. 2300 + 2000 − 3000 = 1300（人）

答：没有参加体检的有 1300 人。

3.（1）童话书　4000 本　科技书　2000 本

故事书　3000 本

（2）4000 − 2000 = 2000（本）

答：最多的图书比最少的图书大约多 2000 本。

（3）科技书和故事书大约一共有几千本？

2000 + 3000 = 5000（本）

答：科技书和故事书大约一共有 5000 本。

【点拨】（3）答案不唯一。

4.（1）1200 + 1200 = 2400（米）

答：他一天来回要走 2400 米。

（2）1200 + 1000 = 2200（米）

答：要走 2200 米。

附加题：最大是 9960，最小是 1599。

【点拨】要使四位数最大，那么最高位越大越好，要使四位数最小，千位是 1 保证有千位，从个位起，数字越大越好。

期中检测卷

一、1. 400　260　3000　500　200　1000　1000　2600　200　700　300　9000

2. 58 ÷ 6 = 9……4　　35 ÷ 4 = 8……3

$$\begin{array}{r} 9 \\ 6\overline{)58} \\ \underline{54} \\ 4 \end{array}$$

$$\begin{array}{r} 8 \\ 4\overline{)35} \\ \underline{32} \\ 3 \end{array}$$

荣德基 好卷
微信公众号 教辅资料站
关注微信公众号“教辅资料站”获取更多学习资料

$43 \div 7 = 6 \cdots\cdots 1$　　$63 \div 9 = 7$

$$\begin{array}{r} 6 \\ 7\overline{)43} \\ 42 \\ \hline 1 \end{array} \qquad \begin{array}{r} 7 \\ 9\overline{)63} \\ 63 \\ \hline 0 \end{array}$$

二、1. 

3　2

2. 5　30　3. 6085　一千

4. 7　8　5. 3　4　5　9

6. （1）分　（2）时　（3）秒　（4）时

7. 北　东　西

8. 199　【点拨】最大的两位数是99，最小的三位数是100。

9. 404　744　10. 180　120　1　1

11. （1）9000　9100　（2）7000　6990　（3）1710　1711

12. 4　19

三、1. ①　2. ③　3. ②　4. ①

四、1. （1）东　东北

（2）

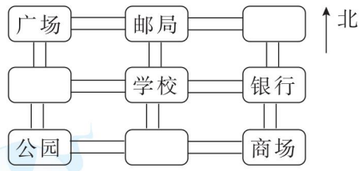

2. 5：40　3：55



五、1. $300 + 200 = 500$（米）

答：走了500米。

2. 5元＝50角

$50 \div 8 = 6$（块）……2（角）

$8 - 2 = 6$（角）

答：5元可以买6块这样的橡皮，再加6角可以多买一块橡皮。

3. $240 - 40 = 200$（人）

答：下午去了200人。

4. （1）$398 \approx 400$　$214 \approx 200$

$400 + 200 = 600$（元）

答：买一台微波炉和一台电风扇大约需要600元。

（2）$292 \approx 300$　$186 \approx 200$

$300 + 200 = 500$（元）

答：够。

附加题：这个三位数是646。

第五单元跟踪检测卷

分米和毫米

一、1. 米　2. 63　55　8　3. 50　10

4. 100　40　700　200　6　7000　1000　5

5. ＜　＜　＜　＞　＝　＜

6. 小亮　小兰　小明　7. 70

二、1. 米　2. 毫米　3. 米　4. 厘米

5. 厘米　6. 毫米　7. 厘米　8. 米

三、1. ×　2. ×　3. ×　4. ×

四、1. ③　2. ③　3. ③　4. ②　5. ①

五、1.

2.

3. 3厘米＜310毫米＜50厘米＜4米

六、1. $48 \div 8 = 6$（米）　6米＝60分米

答：每段长6米，合60分米。

2. $85 - 20 = 65$（米）

答：小鸭每分钟跑65米。

3. $7 \times 4 = 28$（厘米）

答：这根绳子一共长28厘米。

【点拨】把一根绳子对折再对折可以得到4段同样长度的绳子。

4. （1）$6 \times 5 = 30$（厘米）

答：做这些铁圈一共用了30厘米铁丝。

（2）5分米＝50厘米　$50 - 30 = 20$（厘米）

答：这根铁丝还剩20厘米。

5. $100 - 64 = 36$（米）　$36 \div 9 = 4$（天）

答：4天可修完。

附加题：$100 + 100 = 200$（毫米）

$200 + 60 = 260$（毫米）

260毫米＝26厘米

答：这根小棒长26厘米。

第六单元跟踪检测卷

两、三位数的加法和减法

一、1. 140　500　1000　240　52　66　60　74　940　95　90　35　18　1200　82　800

2. $398 + 135 = 533$　$168 + 240 = 408$

$$\begin{array}{r} 398 \\ +\ 135 \\ \hline 533 \end{array}$$ 验算：$$\begin{array}{r} 135 \\ +\ 398 \\ \hline 533 \end{array} \qquad \begin{array}{r} 168 \\ +\ 240 \\ \hline 408 \end{array}$$

$503 + 298 - 178 = 623$　$516 - 274 = 242$

$$\begin{array}{r} 503 \\ +\ 298 \\ \hline 801 \end{array} \quad \begin{array}{r} 801 \\ -\ 178 \\ \hline 623 \end{array} \qquad \begin{array}{r} 516 \\ -\ 274 \\ \hline 242 \end{array}$$ 验算：$$\begin{array}{r} 242 \\ +\ 274 \\ \hline 516 \end{array}$$

$708 - 324 = 384$　$935 - 347 + 236 = 824$

$$\begin{array}{r} 708 \\ -\ 324 \\ \hline 384 \end{array} \qquad \begin{array}{r} 935 \\ -\ 347 \\ \hline 588 \end{array} \quad \begin{array}{r} 588 \\ +\ 236 \\ \hline 824 \end{array}$$

二、1. 437　245　2. ＞　＝　＞　＜　＝　＝　3. 400　800

三、407　673　532　599

四、1. ②　2. ①　3. ①　4. ②　5. ②

五、$$\begin{array}{r} \boxed{9}\ 2\ 5 \\ -\ 5\ 3\ \boxed{8} \\ \hline 3\ 8\ 7 \end{array} \qquad \begin{array}{r} 2\ \boxed{3}\ 6 \\ +\ \boxed{1}\ 5\ 2 \\ \hline 3\ 8\ 8 \end{array}$$

六、1. $268 + 375 = 643$（只）

$643 + 194 = 837$（只）

答：农场里养了837只羊。

2. （1）$178 + 194 = 372$（页）

答：杨澜两天一共看了372页。

（2）$372 + 148 = 520$（页）

答：这本书一共有520页。

3. （1）$198 + 205 = 403$（元）

$106 + 95 = 201$（元）

答：最多需要403元，最少需要201元。

（2）$400 - 198 = 202$（元）

答：还剩202元。

4. （1）李小芳：$823 - 637 = 186$（千瓦时）

张宁：$1045 - 922 = 123$（千瓦时）

吴天宇：$965 - 706 = 259$（千瓦时）

填表：186　123　259

（2）$259 - 123 = 136$（千瓦时）

答：吴天宇家和张宁家五月用电相差136千瓦时。

（3）$186 + 123 + 259 = 568$（千瓦时）

答：三户人家五月一共用电568千瓦时。

附加题：5　2　【点拨】$0 - 0 = 0$，但很明显0不可以，那就是需要退位，$10 - 5 = 5$，所以☆＝5。$8 + 4 = 12$，需要进位，所以△＝2。

第七、八单元跟踪检测卷

角的初步认识　数据的收集和整理（一）

一、1. 1　2　3　1

2.（√）（×）（√）（×）（√）（×）

3. 5　5　6　3

4. 6　7　7　8　6　6

二、1. ×　【点拨】角的大小与所画边的长短无关，与两边张开的大小有关。

2. ×

3. ×　【点拨】也可以是钝角。

4. √　5. ×

三、2　4　1　2　5　1　2　4　3

四、

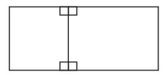

增加4个直角

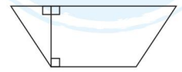

增加3个直角

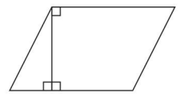

增加3个直角

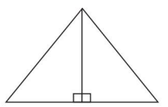

增加2个直角

（答案不唯一）

关注微信公众号“教辅资料站”获取更多学习资料

五、1.（1）5　4　（2）3　3元　4　4元　2

2.（1）正　正下　正　正一

（2）4　8　4　6

（3）

六、7　9　16　4　3　4　5　16

（1）9　2　（2）△　☆　◇

附加题：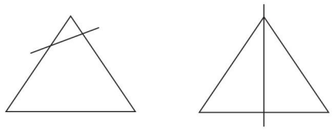

还剩4个角　还剩3个角

期末复习冲刺卷

模块过关卷（一）　数与代数　统计

一、1. 5　160　9　640　56　9　30　81

710　400　10000　98

2. 600　900　500

3. 1000－364＝636　　345＋238＝583

$\begin{array}{r}1000\\-\ 364\\\hline 636\end{array}$ 验算：$\begin{array}{r}636\\+\ 364\\\hline 1000\end{array}$　$\begin{array}{r}345\\+238\\\hline 583\end{array}$

23÷5＝4……3　　79÷9＝8……7

$5\overline{)23}$ 余 $\begin{array}{r}20\\\hline 3\end{array}$　　$9\overline{)79}$ 余 $\begin{array}{r}72\\\hline 7\end{array}$

252＋89＝341　　450＋58＋243＝751

$\begin{array}{r}252\\+\ 89\\\hline 341\end{array}$ 验算：$\begin{array}{r}89\\+252\\\hline 341\end{array}$　$\begin{array}{r}450\\+\ 58\\\hline 508\end{array}$　$\begin{array}{r}508\\+243\\\hline 751\end{array}$

二、1. 5　44　2. 30　15　6　3

3. 20÷6＝3（束）……2（个）

20÷3＝6（个）……2（个）

4. 5003　五千零三　1000　490　49

5. 3　千　3　百　6. 2900

7. <　=　>　>　=　>

8. 8　4　6　6

9.（1）7000　7001　（2）190　180

（3）820　825

10. 1999　1

三、75　269　544

四、

6:50　7:05　9:00　4:55

五、1. 42＋3＝45（人）

45÷6＝7（顶）……3（人）

7＋1＝8（顶）

答：他们至少要准备8顶帐篷。

【点拨】每6人住一顶，列式可得7顶还余3人，那要全部住下，就要多1顶，所以至少需要8顶帐篷。

2.（1）785－128＝657（只）

答：饲养场养了657只鸭。

（2）657＋350＝1007（只）

答：饲养场养了1007只鹅。

3.（1）7　5　（2）2　4　4　2

（3）男生多。

（4）乒乓球项目的和篮球项目的人数一样多。排球项目的和足球项目的人数一样多。　【点拨】答案不唯一。

附加题：24－13＝11（千克）

11＋11＝22（千克）

答：原来桶中有油22千克。

【点拨】倒出一半油后变成13千克，和原来比少了11千克，那这11千克就是倒出来的一半的油，一半的油是11千克，那一共就应该是22千克。

期末复习冲刺卷

模块过关卷（二）　图形与几何

一、1. 1　3　2　4　5　2. 南　东　西

3. 北　东　相反

4. 600　4　80　70　30　300

5. 厘米　分米　厘米　米

6. <　<　>　<　=　<　>　>　>

二、①　③　②　④

三、2　1　1　3　3　2

四、1. 43　39　30

2. 5厘米

3. 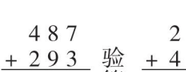　【点拨】答案不唯一。

五、1. 北　2. 西南　西北　西

3. 东南　东南　4. 南　东北　东南

六、1. 880－158－365＝357（米）

答：从学校到少年宫一共有357米。

2. 5分米＝50厘米

20＋50＝70（厘米）

答：现在比原来短了70厘米。

3. 2分米＝20厘米

20－9＝11（厘米）

答：用了11厘米。

4.（1）西南　西

（2）3　从中间走

（3）600＋800＝1400（米）

答：一共要走1400米。

附加题：3　6

期末复习冲刺卷

仿真模拟卷（一）

一、170　70　320　7　9　200　4　640　540

45　400　40

二、487＋293＝780　　48÷6＝8

$\begin{array}{r}487\\+293\\\hline 780\end{array}$ 验算：$\begin{array}{r}293\\+487\\\hline 780\end{array}$　$6\overline{)48}$ 余 $\begin{array}{r}48\\\hline 0\end{array}$

297＋66＋343＝706　　246＋315＝561

$\begin{array}{r}297\\+\ 66\\\hline 363\end{array}$　$\begin{array}{r}363\\+343\\\hline 706\end{array}$　$\begin{array}{r}246\\+315\\\hline 561\end{array}$ 验算：$\begin{array}{r}315\\+246\\\hline 561\end{array}$

700－566＝134　　636－276＝360

$\begin{array}{r}700\\-566\\\hline 134\end{array}$ 验算：$\begin{array}{r}566\\+134\\\hline 700\end{array}$　$\begin{array}{r}636\\-276\\\hline 360\end{array}$

61÷9＝6……7　　335＋76＋199＝610

$9\overline{)61}$ 余 $\begin{array}{r}54\\\hline 7\end{array}$　　$\begin{array}{r}335\\+\ 76\\\hline 411\end{array}$　$\begin{array}{r}411\\+199\\\hline 610\end{array}$

三、1. 816　2. 708　3. 100　9

4. 299　300　5. 7　41

6. 5　7. <　<　=　<　>　<

8. 4　3　2　9. 3　9　10. 50　200

11. 43　12. 100　10　13. 400　103

四、分　毫米　厘米　毫米　元　分

五、1. 减少4人 √

2. 420本 √

3. 小班多36颗 √

六、北

文文		
林林	小雨	晶晶
	丽丽	

七、1. 648－87＝561（页）

答：她已经看了561页。

2. 445－225＋102＝322（台）

答：现在商店里有电脑322台。

3. 154－26＝128（张）

128－47＝81（张）

答：亮亮收集了128张画片。奇奇收集了81张画片。

4. 4×8＝32（下）　32＋24＝56（下）

答：这些同学一共踢了56下。

5.（1）16　3　2　4　7　（2）16　7　9

附加题：

期末复习冲刺卷

仿真模拟卷（二）

一、1. 13÷4＝3（个）……1（个）

13÷3＝4（盘）……1（个）

2. 6　29　3. 3008　850

4. 6430　3046　4036　5. 1000　999

6. 300　290　280　5100　5110　5120　646

555　464

7. 秒　分　时　毫米　分米　厘米

8. <　=　<

荣德基　试卷　微信公众号　教辅资料站　关注微信公众号“教辅资料站”获取更多学习资料

9. $1100 > 1010 > 1001 > 998$

10. 5000

二、1. ③ 2. ② 3. ② 4. ② 5. ①

6. ② 7. ② 8. ③ 9. ③

三、1. 502 94 54 600 92 1700 700

6000 430 42 8 57 7 60 92

7800 130 29 70 24

2. $657 + 468 = 1125$

$$\begin{array}{r} 657 \\ +\ 468 \\ \hline 1125 \end{array} \quad \text{验算:} \quad \begin{array}{r} 468 \\ +\ 657 \\ \hline 1125 \end{array}$$

$672 - 254 = 418$

$$\begin{array}{r} 672 \\ -\ 254 \\ \hline 418 \end{array} \quad \text{验算:} \quad \begin{array}{r} 418 \\ +\ 254 \\ \hline 672 \end{array}$$

$17 \div 2 = 8 \cdots\cdots 1$ $48 \div 5 = 9 \cdots\cdots 3$

$$\begin{array}{r} 8 \\ 2\overline{)17} \\ 16 \\ \hline 1 \end{array} \qquad \begin{array}{r} 9 \\ 5\overline{)48} \\ 45 \\ \hline 3 \end{array}$$

$386 + 531 - 429 = 488$

$$\begin{array}{r} 386 \\ +\ 531 \\ \hline 917 \end{array} \quad \begin{array}{r} 917 \\ -\ 429 \\ \hline 488 \end{array}$$

$727 - 529 + 267 = 465$

$$\begin{array}{r} 727 \\ -\ 529 \\ \hline 198 \end{array} \quad \begin{array}{r} 198 \\ +\ 267 \\ \hline 465 \end{array}$$

四、1. 35毫米

2. 1：15 锐角 2：55 钝角

9：00 直角 11：05 锐角

3. 西 西南 东南 西北

五、1. 5 元 = 50 角

$50 \div 6 = 8$（支）……2（角）

答：最多可以买 8 支这样的铅笔。

2. 24

$28 + 22 - 24 = 26$（人）

答：有 26 人没有报名参加。

3. $800 - 205 - 96 = 499$（米）

答：再修 499 米才能修完。

4. （1）$509 - 267 = 242$（元）

$242 + 59 = 301$（元）

答：一条裤子 242 元，一双鞋子 301 元。

（2）$509 + 242 + 301 = 1052$（元）

$1000 < 1052$

答：带 1000 元不够。

附加题：$36 - 8 = 28$（岁） $50 - 28 = 22$（岁）

答：爸爸 50 岁时婷婷 22 岁。

期末复习冲刺卷

江苏省某名校期末测试卷

一、77 22 60 70 84 46 8 1200

二、$56 + 374 = 430$

$$\begin{array}{r} 56 \\ +\ 374 \\ \hline 430 \end{array} \quad \text{验算:} \quad \begin{array}{r} 374 \\ +\ 56 \\ \hline 430 \end{array}$$

$627 - 264 = 363$

$$\begin{array}{r} 627 \\ -\ 264 \\ \hline 363 \end{array} \quad \text{验算:} \quad \begin{array}{r} 363 \\ +\ 264 \\ \hline 627 \end{array}$$

$50 \div 7 = 7 \cdots\cdots 1$

$$\begin{array}{r} 7 \\ 7\overline{)50} \\ 49 \\ \hline 1 \end{array}$$

三、1. 503 504 502 2. 3298 3829

3. 500 30 9 3000 20 6

4. 

3 3

5. 3 7 45 4 6. 173 574

7. （1）西 （2）南 （3）西南

8. 24 18

四、1. 商 4 余 1 √

2. 30 秒 √

3. 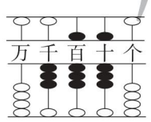 √

4. 2407 √

5. $550 - 486$ √

6. 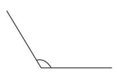 √

7. 东南 √

8. 800 条 √

9. 800 步 √

10. 李力 √

五、1. 1 

2. 45毫米

六、1. （1）$267 + 315 = 582$（棵）

答：三、四年级一共植树 582 棵。

（2）$315 - 267 = 48$（棵）

答：四年级比三年级多植树 48 棵。

2. $50 \div 6 = 8$（天）……2（个）

$8 + 1 = 9$（天）

答：攒这些鸡蛋至少需要 9 天。

【点拨】8 天只能攒 48 个鸡蛋，不够 50 个，所以要多 1 天，9 天就够了。

3. $340 + 850 - 270 = 920$（米）

答：小宁家到小力家有 920 米。

【点拨】如下图，求出总长度，再减去小力家到小红家的距离。

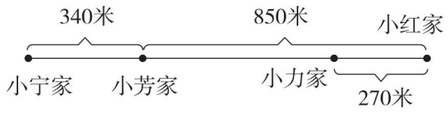

4. 按年龄分：

9 岁	4 人
8 岁	5 人

按性别分：

男生	7 人
女生	2 人

【点拨】分类标准不唯一。

期末复习冲刺卷

山西省某名校期末测试卷

一、1. 800 91 89 1300 27 44 54

3……3 820 50 61 19 84 33

50 600

2. $43 \div 6 = 7 \cdots\cdots 1$ $483 + 276 = 759$

$$\begin{array}{r} 7 \\ 6\overline{)43} \\ 42 \\ \hline 1 \end{array}$$

$$\begin{array}{r} 483 \\ +\ 276 \\ \hline 759 \end{array} \quad \text{验算:} \quad \begin{array}{r} 276 \\ +\ 483 \\ \hline 759 \end{array}$$

$600 - 390 = 210$ $403 - 275 = 128$

$$\begin{array}{r} 600 \\ -\ 390 \\ \hline 210 \end{array} \quad \begin{array}{r} 403 \\ -\ 275 \\ \hline 128 \end{array} \quad \text{验算:} \quad \begin{array}{r} 128 \\ +\ 275 \\ \hline 403 \end{array}$$

二、1. 6 6 55

2. 1000 62 5030 五千零三十

3. 3 时 15 秒 8 35

4. 7

5. （1）分米 毫米 （2）50

6. 984 408 498 804

7. （1）9 4 2 3 （2） 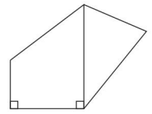

8. （1）小汽车 卡车 20

（2）31 【点拨】由统计表可知共有 58 辆车，减去下午 4：00～5：00 的车辆数，就是 5：00～6：00 的车辆数。

三、1.

小兔
√

2.

9000
√

3.

灰兔
√

4.

不变
√

5.

东南
√

四、1. 55毫米

2. 6:55  钝角

3:05  锐角

9:00  直角

五、1. （1）$278 + 213 + 203 = 694$（人）

答：三个年级共有 694 人到剧场。

（2）$694 + 50 = 744$（人）

$744 > 700$

答：剧场不够坐。

2. $58 - 18 - 24 = 16$（本）

答：图书室里还剩 16 本《科学故事》。

3. $960 - 420 - 230 = 310$（米）

答：学校到少年宫有 310 米。

4. $39 \div 4 = 9$（件）……3（个）

答：这盒扣子可以钉 9 件衣服，还剩 3 个。

来想星空
微信公众号
教辅资料站
关注微信公众号“教辅资料站”获取更多学习资料

好卷

小卷

- 周测培优卷（10套）
- 专项复习卷（5套）
- 满分压轴卷（2套）



二年级 数学

下（SJ版）

关注微信公众号“教辅资料站”获取更多学习资料



目录

周测培优卷

有余数的除法 …… 1

时、分、秒 …… 3

认识方向 …… 5

万以内数的认识及组成 …… 7

万以内数的大小比较及简单的近似数 …… 9

认识分米和毫米、简单的单位换算 …… 11

两位数加减两位数的计算及解决实际问题 …… 13

三位数加减两、三位数的笔算及解决实际问题 …… 15

直角、锐角和钝角 …… 17

简单的数据的收集和整理 …… 19

专项复习卷

认识万以内的数 …… 21

有余数的除法和两、三位数的加减法 …… 23

时、分、秒与分米和毫米 …… 25

角的初步认识和认识方向 …… 27

两步计算的加减法的实际问题与数据的收集和整理 …… 29

满分压轴卷

常考易错突破卷(一) …… 31

常考易错突破卷(二) …… 33

参考答案及点拨 …… 35

荣德基好卷

微信公众号 教辅资料站

关注微信公众号“教辅资料站”获取更多学习资料

周测培优卷 1

有余数的除法

班级_____ 姓名_____ 得分_____ 时间：40分钟 满分：100分

一、填空。（每空 2 分，共 40 分）

1. 

（1）15 个苹果，每 4 个一份，分成了（　　）份，还剩（　　）个，算式是（　　）。

（2）15 个苹果平均放在 7 个盘子里，每个盘子里放（　　）个，还剩（　　）个，算式是（　　）。

2. 43 里面最多有（　　）个 7。

3. 在□里填上合适的数。

27 ÷ □ = 5……2　　40 ÷ 6 = □……□

4. 一个数除以 9 有余数，余数最大是（　　），最小是（　　）。

5. ○□□△○□□△○□□△……第 22 个图形是（　　）。

6. 有 26 个橘子，如果每袋装 4 个，可以装（　　）袋，还剩（　　）个；如果每袋装 5 个，可以装（　　）袋，还剩（　　）个；如果每袋装 6 个，可以装（　　）袋，还剩（　　）个。

7. 35 个小朋友坐船，每条船坐 8 人，至少要（　　）条船。

二、用竖式计算。（每题 4 分，共 16 分）

74 ÷ 9 =　　18 ÷ 4 =　　60 ÷ 8 =　　34 ÷ 5 =

荣德基好卷
微信公众号
教辅资料站

关注微信公众号“教辅资料站”获取更多学习资料

三、判断下列竖式是否正确，错误的请改正过来。（每题 5 分，共 15 分）

$$\begin{array}{r} 4 \\ 3\overline{)17} \\ 12 \\ \hline 5 \end{array}$$

（　　）

$$\begin{array}{r} 6 \\ 2\overline{)13} \\ 12 \\ \hline 1 \end{array}$$

（　　）

$$\begin{array}{r} 5 \\ 3\overline{)18} \\ 15 \\ \hline 3 \end{array}$$

（　　）

四、解决实际问题。（共 29 分）

1. 姐姐买来一些花，每 6 枝插入一个花瓶里，可以插满几个花瓶？还剩几枝？（7 分）



2. 小明买来 13 个苹果，平均分给奶奶、爸爸、妈妈，余下的给自己，小明还有多少个苹果？（7 分）

3. 三月份有 31 天，这个月有几个星期？余几天？（7 分）

4. 23 名同学乘船，每条船上可坐 4 名同学，至少需要几条船？（8 分）



荣德基好卷
微信公众号
教辅资料站

关注微信公众号“教辅资料站”获取更多学习资料

周测培优卷 2

时、分、秒

班级_____ 姓名_____ 得分_____ 时间：40分钟 满分：100分

一、填空。（每空 2 分，共 42 分）

1. 时针从一个数走到相邻的下一个数的时间是（　　），分针走一小格的时间是（　　），分针走一大格的时间是（　　）。

2. 时针走一大格，分针正好走（　　）小格，也就是（　　）分，所以说 1 时 =（　　）分。

3. 

图中电子表上的时间读作（　　），离 11 时 41 分还有（　　）秒。

4. 在○里填上“ > ”“ < ”或“ = ”。

4 分○4 秒　　100 秒○1 分　　1 时○60 分

5. 时针从“2”走到“5”走了（　　）时。分针从“2”走到“5”走了（　　）分。

6. 分针指着 10，时针快指向 5，这时是（　　）时（　　）分。

7. 2：10 再过 30 分后是（　　）时（　　）分。

8. 现在时间是上午 7 时 45 分，再过（　　）分是 8 时整。

9. 现在时间是 1：57，再过 3 分是（　　）。

10. 下午上课的时间是 2：30，明明从家到学校要走 20 分钟，明明最晚要（　　）时（　　）分从家里出发。

二、填上合适的时间单位。（每空 3 分，共 9 分）



王叔叔每天的上班时间是 8（　　）。



看一场篮球赛的时间大约是 50（　　）。



小红跑 50 米大约需要 20（　　）。

关注微信公众号“教辅资料站”获取更多学习资料

三、选择。（将正确答案的序号填在括号里。每题 3 分，共 9 分）

1. 秒针走一圈经过的时间是（　　）。

① 1 秒　　② 1 分　　③ 1 时

2. 分针指向 8，时针指在 7 和 8 之间，此时的时间是（　　）。

① 8：40　　② 7：40　　③ 9：40

3. 小丽、小军和小华进行 50 米赛跑，小丽用了 8 秒，小军用了 12 秒，小华用了 10 秒，（　　）跑得最快。

① 小丽　　② 小军　　③ 小华

四、写出钟面上所指的时间。（每题 3 分，共 12 分）

　　　

（　　）　（　　）　（　　）　（　　）

五、画出钟面上缺少的时针和分针。（每题 2 分，共 10 分）

　　　　

4 时 5 分　　8 时 20 分　　1 时半　　7 时　　11 时 55 分

六、解决问题。（18 分）

4 名同学参加 50 米游泳比赛，成绩如下表：

姓名	明明	红红	兰兰	青青
成绩	93 秒	97 秒	100 秒	90 秒

请你把前三名的名字写在颁奖台上。

（　　）

（　　）　（　　）

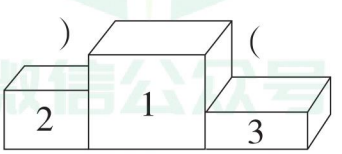

荣德基好卷
微信公众号
教辅资料站

关注微信公众号“教辅资料站”获取更多学习资料

周测培优卷 3

认识方向

班级_____ 姓名_____ 得分_____ 时间：40分钟 满分：100分

一、填空。（每空 2 分，共 28 分）

1. 我们认识的方向中，南和（　　）相对，（　　）和东相对。

2. 地图通常按上（　　）、下（　　）、左（　　）、右（　　）绘制。

3. 下午放学回家时，小明面向太阳，他后面是（　　）面，右面是（　　）面。

4. 小明早上跑步锻炼身体，他从家出发，先向（　　）面跑到人民桥，再向（　　）面跑到文化宫，最后向（　　）面跑回家。

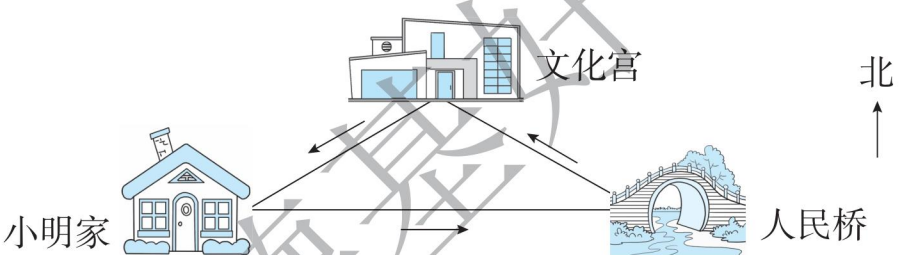

5. 红红把手表放在桌面上，“12”正对着北面，正对着南面的是“（　　）”，正对着西面的是“（　　）”，正对着东面的是“（　　）”。

二、判断。（对的在括号里打“√”，错的打“×”。每题 2 分，共 6 分）

1. 兰兰迎着夕阳回家，她的左面是北。（　　）

2. 小刚站在小亮的东面，那么小亮就在小刚的西面。（　　）

3. 小冬从家去学校的路线：从家出发，向东南面走到书店，再向东北面走到超市，再向南面走到学校。（　　）

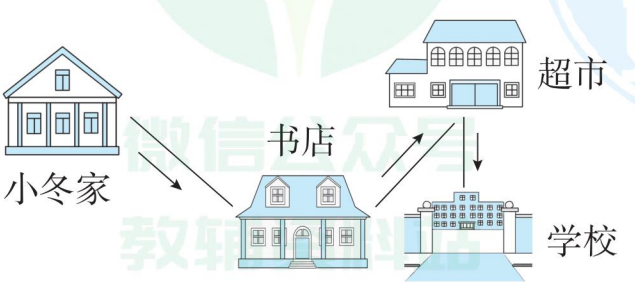

关注微信公众号“教辅资料站”获取更多学习资料

三、看图填一填。(18 分)

小动物的家分别在哪里？(请写在[　　]里)

小熊家的北面是小羊家，南面是小狗家。

小熊家的东面是小猴家，西面是小松鼠家。

小熊家的东北面是小猫家，西南面是小兔家。

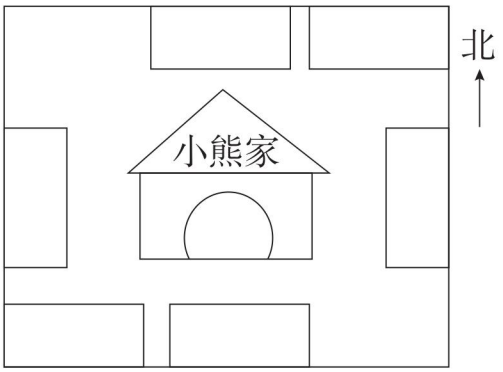

四、下面是动物园平面示意图的一部分。(每空 4 分，共 24 分)

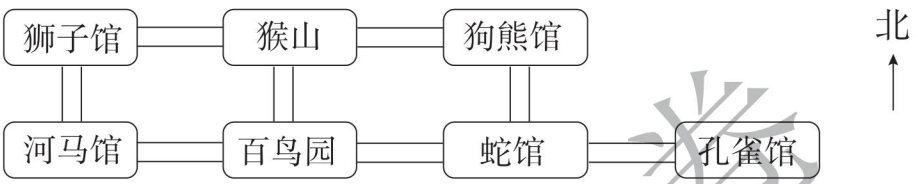

1. 蛇馆在孔雀馆的(　　)面，百鸟园在猴山的(　　)面。
2. (　　)在百鸟园的西面，猴山的西面是(　　)。
3. 从百鸟园到狗熊馆，可先向(　　)走，再向(　　)走。

五、看图填空。(每空 3 分，共 24 分)

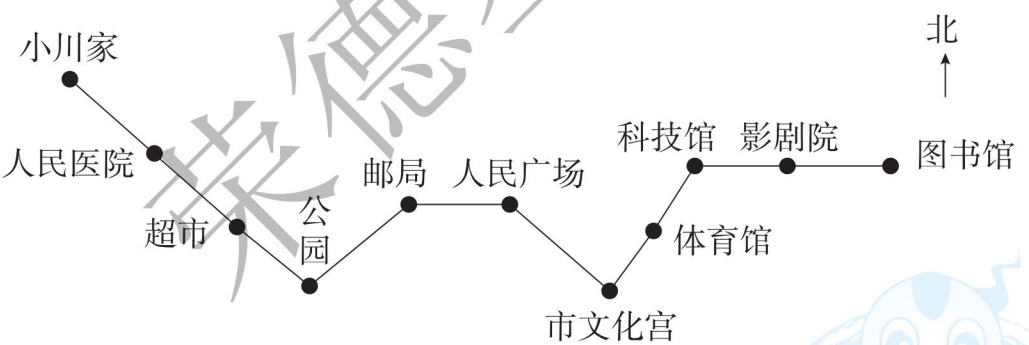

1. 从小川家到公园是向(　　)走，从图书馆到影剧院是向(　　)走，从科技馆到影剧院是向(　　)走，从邮局到公园是向(　　)走。
2. 从人民广场到(　　)是向东南走，从人民医院到(　　)是向西北走，从人民广场到(　　)是向西走，从公园到(　　)是向东北走。

荣德基卷

关注微信公众号“教辅资料站”获取更多学习资料

周测培优卷 4
万以内数的认识及组成

班级_____ 姓名_____ 得分_____ 时间：40分钟 满分：100分

一、口算。（每题 2 分，共 12 分）

8000 + 900 =　　500 + 4200 =　　6000 + 3000 =

5400 + 3200 =　　4000 − 3000 =　　3900 − 400 =

二、填空。（每空 1 分，共 43 分）

1. 写出下面各数的组成，再读一读。

(1) 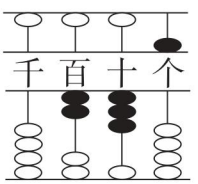

2 个（　　）、（　　）个十和（　　）个一组成。

读作：（　　）

(2) 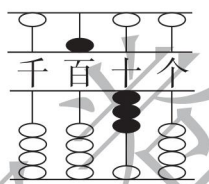

（　　）个百和（　　）个（　　）组成。

读作：（　　）

(3) 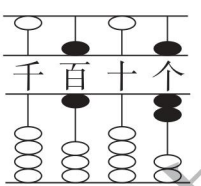

（　　）个（　　）和（　　）个（　　）组成。

读作：（　　）

(4) 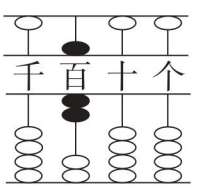

（　　）个（　　）组成。

读作：（　　）

2. 一个数从右边起，百位是第（　　）位，第五位是（　　）位。

3. 3465 的最高位是（　　）位，是（　　）位数，“6”在（　　）位上，表示（　　），“3”在（　　）位上，表示（　　）。

4. 100 里面有（　　）个十，1000 里面有（　　）个百，10 个一是（　　）。

5. 2 个千、5 个十组成的数是（　　），读作（　　）。

6. 80 里面有（　　）个十，190 里面有（　　）个十。

荣德基好卷
关注微信公众号“教辅资料站”获取更多学习资料

7. 最小的四位数是（　　），最小的三位数是（　　），它们的和是（　　）。

8. 由（　　）个千、（　　）个百、（　　）个一组成3207。

9. 比9999多1的数是（　　），比1000少1的数是（　　）。

10. 找规律，填一填。

45000，45100，（　　），45300，（　　）。

11. 由2个0和2个7组成的最大四位数是（　　），最小四位数是（　　）。

三、判断。（对的在括号里打“√”，错的打“×”。每题3分，共21分）

1. 一个数的最高位是百位，这个数是四位数。（　　）

2. 三位数一定比四位数小。（　　）

3. 七千零九写作：7009。（　　）

4. 最大的四位数比最小的五位数大。（　　）

5. 用5、6、0、3组成最小的四位数是6305。（　　）

6. 最高位是万位的数是五位数，一个四位数最高位是千位。（　　）

7. 只读一个零的数是末尾有0的数。（　　）

四、读或写出横线上的数。（每题4分，共12分）

1. 万老师带着270名学生参加夏令营活动。读作：（　　）

2. 妈妈用六千八百元买了一台洗衣机。写作：（　　）

3. 珠穆朗玛峰的高度大约是8844米。读作：（　　）

五、按要求，在算盘或计数器上画珠表示下面的数。（共12分）

1. 拨2颗算珠能表示的最小四位数。（6分）

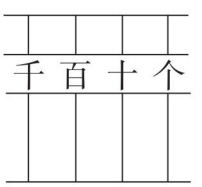

2. 比最大的三位数多2的数。（6分）

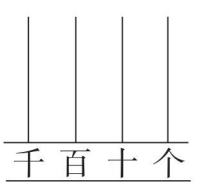

荣德基好卷

关注微信公众号“教辅资料站”获取更多学习资料

周测培优卷 5
万以内数的大小比较及简单的近似数

班级_____ 姓名_____ 得分_____ 时间：40分钟 满分：100分

一、填空。（每空 3 分，共 30 分）

1. 小华买了一辆自行车花了 209 元，约是（　　）元。

2. 果园有 589 棵桃树，大约是（　　）棵；有 715 棵苹果树，大约是（　　）棵。

3. 工厂生产 A 零件 1890 个，B 零件大约 2000 个，其中近似数是（　　），准确数是（　　）。

4. 从甲地到乙地的飞机票是 917 元，大约是（　　）元。

5. 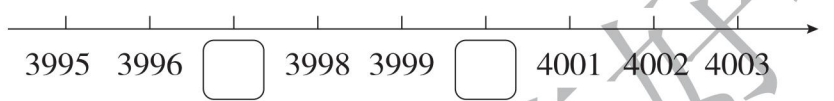

6. 用 3 、0 、9 、4 摆一个最接近 3000 的数是（　　），摆一个最接近 4000 的数是（　　）。

二、判断。（对的在括号里打“√”，错的打“×”。每题 5 分，共 15 分）

1. 545 的近似数是 600。（　　）

2. 准确数是准确的，确定的；近似数是大概的，不是准确的，近似数一般是整十、整百、整千数。（　　）

3. “≈”左右两边的数相等。（　　）

三、想一想，做一做。（共 55 分）

1. 在◯里填上“>”“<”或“=”。（每题 3 分，共 18 分）

658 ◯ 685　　1354 ◯ 3541

4876 ◯ 4776　　2037 ◯ 2073

5892 ◯ 6000　　9075 ◯ 9057

关注微信公众号“教辅资料站”获取更多学习资料

2. 括号里最大能填几？（每题 4 分，共 16 分）

3427 > 3（　　）27　　7000 >（　　）999

3946 > 39（　　）5　　8310 > 8（　　）52

3. 一台洗衣机 3490 元，一台空调的价格和一台洗衣机的价格差不多，一台空调可能是多少元？在合适的价格下面画“√”。（5 分）

6899 元	1302 元	3500 元	3002 元

4. 果园里有桃树、梨树、苹果树、杏树，数量如下表（单位：棵）：

果树种类	桃树	梨树	苹果树	杏树
果树棵数	3015	4016	3030	1060

（1）每种果树各接近几千棵？（5 分）

（2）哪两种果树棵数差不多？（5 分）

（3）哪种树的棵数比梨树少很多？（6 分）

荣德基好卷

关注微信公众号“教辅资料站”获取更多学习资料

周测培优卷 6
认识分米和毫米、简单的单位换算

班级_____ 姓名_____ 得分_____ 时间：40分钟 满分：100分

一、填空。（第4题14分，其余每空2分，共58分）

1. 常用的长度单位有（　　）、（　　）、（　　）、（　　）。

2. 测量大楼的高度，一般用（　　）作单位。测量降雨量，一般用（　　）作单位。

3. 在括号里填上合适的单位名称。

一支铅笔长约2（　　）。　　数学课本厚约6（　　）。

一栋楼高约25（　　）。　　一根筷子长约2（　　）。

课桌长约6（　　）。　　小明身高125（　　）。

一棵大树高5（　　）。　　课桌高7（　　）。

蜡笔长6（　　）。　　小蚂蚁身长5（　　）。

4. 单位换算。

1厘米＝（　　）毫米　　1米＝（　　）分米

4米＝（　　）分米　　2000毫米＝（　　）米

20毫米＝（　　）厘米　　4厘米＝（　　）毫米

50厘米＝（　　）分米　　7分米＝（　　）厘米

1分米＝（　　）厘米　　9分米＝（　　）厘米

500厘米＝（　　）米　　700毫米＝（　　）分米

30毫米＝（　　）厘米　　7厘米＝（　　）毫米

5. 在◯里填上“＞”“＜”或“＝”。

14厘米◯20毫米　　100毫米◯10厘米　　8毫米◯7厘米

1米◯8分米　　2米◯2100毫米　　6厘米◯60毫米

二、判断。（对的在括号里打“√”，错的打“×”。每题2分，共8分）

1. 一张床长约22分米。（　　）

2. 明明的身高为150厘米，红红的身高为15分米，两人一样高。（　　）

3. 测量一段路的长度，可以用米作单位。（　　）

4. 飞机每小时飞行800米。（　　）

关注微信公众号“教辅资料站”获取更多学习资料

三、操作题。（共 14 分）

1. 画一条长 45 毫米的线段。（3 分）

2. 画一条比 3 厘米长 25 毫米的线段。（3 分）

3. 量一量，填一填。（8 分）

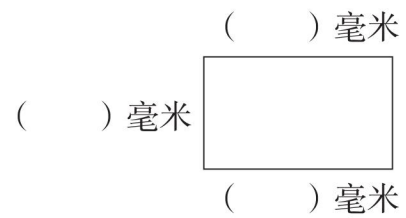

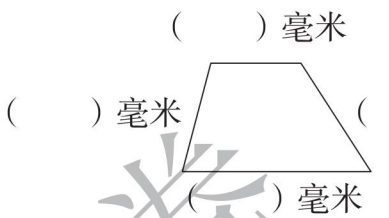

四、解决问题。（共 20 分）

1. 小军的身高是 1 米 45 厘米，小强的身高是 1 米 65 厘米。小强比小军高多少厘米？合多少分米？（5 分）

2. 一块花布长 6 米，做一套衣服用 9 分米，这块花布最多能做几套衣服？（5 分）

3. 一根绳子长 7 分米，用掉 45 毫米，还剩多少毫米？（5 分）

4. 一根木头长 40 分米，把它锯成相等的小段，锯 4 次后，平均每段长多少分米？（5 分）

荣德基好卷

关注微信公众号“教辅资料站”获取更多学习资料

周测培优卷 7
两位数加减两位数的计算及解决实际问题

班级_____ 姓名_____ 得分_____ 时间：40分钟 满分：100分

一、口算。（每题2分，共24分）

25 + 36 =	44 − 25 =	78 − 46 =	14 + 29 − 33 =
26 + 27 =	48 + 18 =	58 − 34 =	90 − 45 + 16 =
16 + 29 =	70 − 45 =	65 − 56 =	43 + 57 − 50 =

二、填空。（每空2分，共30分）

1. 比58大23的数是（　　）；41比19多（　　）。

2. 两个加数都是27，它们的和是（　　）。

3. 在○里填上“＞”“＜”或“＝”。

23 + 49 ○ 32 + 49　　98 − 19 ○ 98 − 91　　23 + 49 ○ 21 + 42

4. 在得数比80大的算式后面的□里画“√”。

42 + 35 □　　56 + 27 □　　18 + 65 □

29 + 59 □　　23 + 56 □　　77 + 13 □

5. 58 $\xrightarrow{-29}$ □ $\xrightarrow{+43}$ □ $\xrightarrow{-26}$ □

三、填表。（16分）

	小丽	小玲	小芳	小强
已经看了	56页	（　　）页	23页	35页
还剩	（　　）页	55页	47页	（　　）页
一共有	74页	62页	（　　）页	82页

荣德基好卷

关注微信公众号“教辅资料站”获取更多学习资料

四、解决问题。（共 30 分）

1. 现在湖边有多少只船？（6 分）



2. 姐姐有 76 张邮票，送给弟弟 25 张，自己又搜集了 18 张，姐姐现在有多少张邮票？（6 分）

3. 一本故事书有 75 页，小丽第一天看了 32 页，第二天看了 27 页，还剩下多少页没有看？（6 分）

4. 一批零件有 90 个，李师傅第一天加工了 27 个，第二天加工了 36 个，还剩下多少个？（6 分）

5. 二年级一班的同学做手工娃娃，男生做了 42 个，女生做了 58 个，送给幼儿园 30 个，二年级一班的同学还剩下手工娃娃多少个？（6 分）

荣德基好卷

关注微信公众号“教辅资料站”获取更多学习资料

周测培优卷 8
三位数加减两、三位数的笔算及解决实际问题

班级_____ 姓名_____ 得分_____ 时间：40分钟 满分：100分

一、用竖式计算，带☆的要验算。（要验算的每题6分，其余每题5分，共32分）

546 + 272 =　　☆265 + 276 =　　486 + 127 + 237 =

657 − 375 =　　☆600 − 194 =　　670 − 383 + 456 =

二、填空。（每空2分，共22分）

1. 345比729少（　　）；265比199多（　　）。

2. 在◯里填上“>”“<”或“=”。

598 − 205 ◯ 485 − 299　　399 + 302 ◯ 509 + 299

489 − 202 ◯ 211 − 102　　603 − 245 ◯ 378 + 103

3. 妈妈买  和  共花了900元，其中上衣599元，裤子（　　）元。

4. 填表。

被减数	702	909		725
减数	295	327	374	
差			158	126

荣德基好卷

关注微信公众号“教辅资料站”获取更多学习资料

三、在正确的算式后面的□里画“√”。（每题 4 分，共 12 分）

1. 比 533 少 246 的数是多少？

533 + 246 □　　533 − 246 □

2. 比 435 多 169 的数是多少？

435 + 169 □　　435 − 169 □

3. 768 比 178 多多少？

768 − 178 □　　768 + 178 □

四、解决简单实际问题。（共 34 分）

1. 迎宾路小学有男生 461 人，女生 486 人，体育已经达标的有 856 人，还未达标的有多少人？（10 分）

2. 在庆祝“六一”儿童节的时候，儿童剧院的叔叔阿姨们为新洋实验小学的学生举办了三次演出，这一次轮到二年级和三年级的学生观看，二年级有 453 人，三年级有 471 人，剧院为学生准备了 950 个座位，够吗？（12 分）

3. 成华每天坚持练书法，每周总共要练 574 个字，这周他已经完成了 492 个字，还差多少个字就能完成这周的练习任务了？（12 分）

荣德基好卷

关注微信公众号“教辅资料站”获取更多学习资料

周测培优卷 9
直角、锐角和钝角

班级_____ 姓名_____ 得分_____ 时间：40分钟 满分：100分

一、填空。（每空 2 分，共 20 分）

1. 标出右图中角各部分的名称。

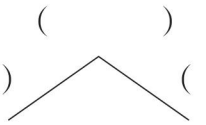

2. 一个角有（ ）个顶点，（ ）条边。

3. 要知道一个角是不是直角，可以用三角尺上的（ ）比一比。

4. 两条交叉的直线，最多会形成（ ）个直角。

5. 把一张长方形纸对折后展开，把折线画出来，这时长方形纸一共有（ ）个直角。

6. 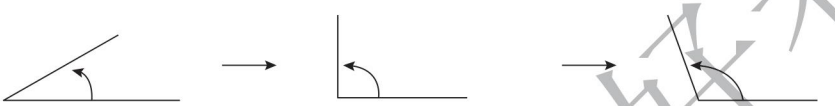

顺着箭头指引的方向去观察，发现角逐渐变（ ）了，说明角的两边张开的越大，角越（ ）。

二、判断。（对的在括号里打“√”，错的打“×”。每题 2 分，共 6 分）

1. 直角和锐角一定拼成钝角。（ ）

2. 数学书封面上的直角比三角尺上的直角大。（ ）

3. 每一个三角尺上都有两个锐角。（ ）

三、选择。（将正确答案的序号填在括号里。每题 3 分，共 9 分）

1. 钟面上 4 时整，分针和时针所组成的角是（ ）。

① 直角　② 锐角　③ 钝角

2. 一面国旗有（ ）个直角。

① 2　② 3　③ 4

3. 下图被纸遮住的角是（ ）。

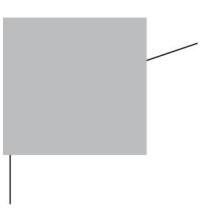

① 直角　② 锐角　③ 钝角

关注微信公众号“教辅资料站”获取更多学习资料

四、动动手，动动脑。（共 65 分）

1. 分一分。（16 分）

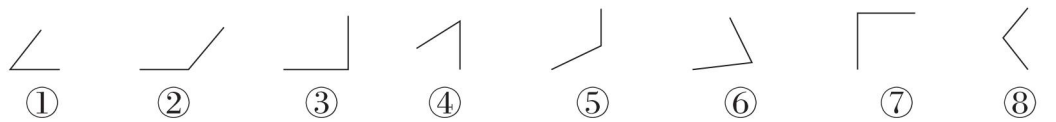

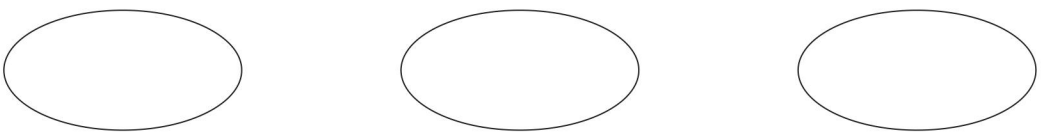

直角　　钝角　　锐角

2. 数一数。

（1）按要求数一数。（12 分）



（　　）个角　（　　）个直角　（　　）个锐角　（　　）个钝角

（2）数出图形中的锐角、直角和钝角的个数。（12 分）

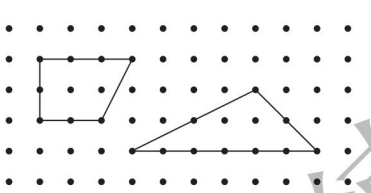

（　　）个锐角
（　　）个直角
（　　）个钝角

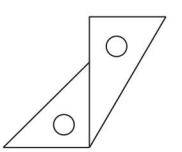

（　　）个锐角
（　　）个直角
（　　）个钝角

3. 画一画。

（1）以下面的线为边，画一个锐角和一个钝角。（16 分）



（2）在下面的圆中画两条线段，使所形成的图形有 2 个直角。（9 分）



荣德基好卷

关注微信公众号“教辅资料站”获取更多学习资料

周测培优卷 10
简单的数据的收集和整理

班级_____ 姓名_____ 得分_____ 时间：40分钟 满分：100分

一、王老师调查了二（1）班小朋友最爱吃的水果的情况。（21分）

						其他
正正	下	正	正	正	正	丁

请你根据上面的调查结果在下面的表格中填一填。

						其他
（　　）人	（　　）人	（　　）人	（　　）人	（　　）人	（　　）人	（　　）人

二、气象小组把6月份的天气作了如下记录。（共54分）

晴天：　雨天：　阴天：

1	2	3	4	5	6	7	8	9	10
									
11	12	13	14	15	16	17	18	19	20
									
21	22	23	24	25	26	27	28	29	30
									

1. 用画“正”字的方法记录天数，按不同的标准分类。（20分）

天气名称	晴天	雨天	阴天
天数			

天气名称	有雨	无雨
天数		

荣德基好卷

关注微信公众号“教辅资料站”获取更多学习资料

2. 请你涂色表示每种天气的天数。（1 个□表示 1 天）（9 分）







3. 这个月（　　）天最多，（　　）天最少。（6 分）

4. 这个月阴天有（　　）天。（3 分）

5. 这个月晴天比雨天多多少天？（8 分）

6. 这个月阴天比雨天多多少天？（8 分）

三、下面是张老师调查本班同学最喜欢的业余活动情况统计表。（共 25 分）

活动项目	看书	看电视	旅游	体育运动	其他
人数	14	10	8	2	4

1. 最喜欢（　　）的人数最多，最喜欢（　　）的人数最少。（6 分）

2. 最喜欢看书的人比最喜欢旅游的人多（　　）人。（3 分）

3. 最喜欢看电视的人比最喜欢体育运动的人多（　　）人。（3 分）

4. 这个班一共有多少人？（13 分）

荣德基好卷

关注微信公众号“教辅资料站”获取更多学习资料

周测培优卷 1

有余数的除法

一、1.（1）3　3

15 ÷ 4 = 3（份）……3（个）

（2）2　1

15 ÷ 7 = 2（个）……1（个）

2. 6

3. 5　6　4

4. 8　1

5. □　【点拨】每 4 个图形一组，22 个图形就有 5 组，还多 2 个，多的是○□，所以第 22 个图形是□。

6. 6　2　5　1　4　2

7. 5

二、74 ÷ 9 = 8……2

$$\begin{array}{r} 8 \\ 9\overline{)74} \\ 72 \\ \hline 2 \end{array}$$

18 ÷ 4 = 4……2

$$\begin{array}{r} 4 \\ 4\overline{)18} \\ 16 \\ \hline 2 \end{array}$$

60 ÷ 8 = 7……4

$$\begin{array}{r} 7 \\ 8\overline{)60} \\ 56 \\ \hline 4 \end{array}$$

34 ÷ 5 = 6……4

$$\begin{array}{r} 6 \\ 5\overline{)34} \\ 30 \\ \hline 4 \end{array}$$

三、× 改正：$\begin{array}{r} 5 \\ 3\overline{)17} \\ 15 \\ \hline 2 \end{array}$　√　× 改正：$\begin{array}{r} 6 \\ 3\overline{)18} \\ 18 \\ \hline 0 \end{array}$

四、1. 21 ÷ 6 = 3（个）……3（枝）

答：可以插满 3 个花瓶，还剩 3 枝。

2. 13 ÷ 3 = 4（个）……1（个）

答：小明还有 1 个苹果。

3. 31 ÷ 7 = 4（个）……3（天）

答：这个月有 4 个星期，余 3 天。

4. 23 ÷ 4 = 5（条）……3（名）

5 + 1 = 6（条）

答：至少需要 6 条船。

周测培优卷 2

时、分、秒

一、1. 1 时　1 分　5 分

2. 60　60　60

3. 11 时 40 分 30 秒　30

荣德基好卷
关注微信公众号“教辅资料站”获取更多学习资料

4. > > =

5. 3 15

6. 4 50

7. 2 40

8. 15

9. 2：00

10. 2 10

二、时 分 秒

三、1. ② 2. ② 3. ①

四、4：00 12：30 6：00 10：00

五、

六、

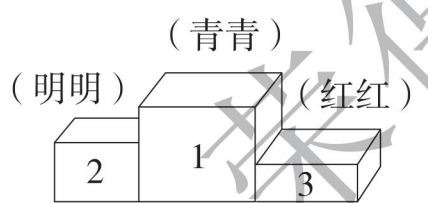

周测培优卷 3

认识方向

一、1. 北 西

2. 北 南 西 东

3. 东 北

4. 东 西北 西南

5. 6 9 3

二、1. × 2. √ 3. √

三、

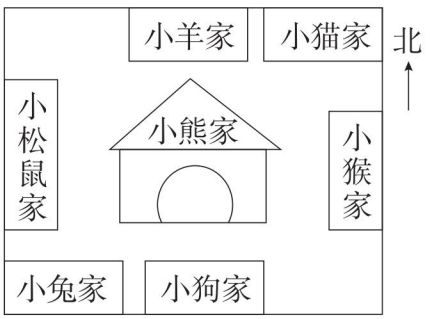

四、1. 西 南

2. 河马馆 狮子馆

3. 北 东（或东 北）

五、1. 东南 西 东 西南

2. 市文化宫 小川家 邮局 邮局

周测培优卷 4

万以内数的认识及组成

一、8900 4700 9000 8600 1000 3500

二、1.（1）百 3 5 二百三十五

（2）5 3 十 五百三十

（3）6 百 7 一 六百零七

（4）7 百 七百

2. 三 万

3. 千 四 十 6 个十 千 3 个千

4. 10 10 10

关注微信公众号“教辅资料站”获取更多学习资料

5. 2050　二千零五十

6. 8　19

7. 1000　100　1100

8. 3　2　7

9. 10000　999

10. 45200　45400

11. 7700　7007

三、1. ×　2. √　3. √　4. ×

5. ×　6. √　7. ×

四、1. 二百七十

2. 6800

3. 八千八百四十四

五、1.

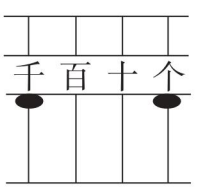

2.

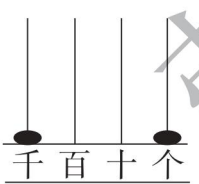

周测培优卷 5

万以内数的大小比较及简单的近似数

一、1. 200

2. 600　700

3. 2000　1890

4. 900

5. 3997　4000

6. 3049　4039

二、1. ×　2. √　3. ×

三、1. <　<　>　<　<　>

2. 3　6　4　2

3.

6899 元	1302 元	3500 元	3002 元
		√	

4. （1）桃树：3000 棵

梨树：4000 棵

苹果树：3000 棵

杏树：1000 棵

（2）桃树和苹果树。

（3）杏树。

周测培优卷 6

认识分米和毫米、简单的单位换算

一、1. 米　分米　厘米　毫米

2. 米　毫米

3. 分米　毫米　米　分米　分米

厘米　米　分米　厘米　毫米

4. 10　10　40　2　2　40　5　70

10　90　5　7　3　70

5. >　=　<　>　<　=

二、1. √　2. √　3. √　4. ×

三、1.



荣德基好卷

关注微信公众号“教辅资料站”获取更多学习资料

2. 55毫米

【点拨】3 厘米 = 30 毫米

30 + 25 = 55（毫米）

3.

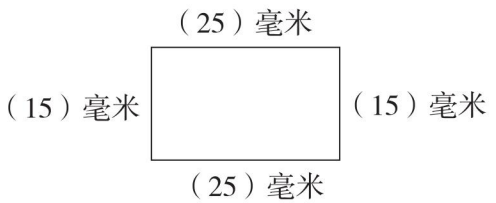

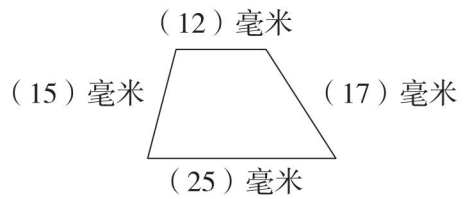

四、1. 1 米 45 厘米 = 145 厘米

1 米 65 厘米 = 165 厘米

165 − 145 = 20（厘米）

20 厘米 = 2 分米

答：小强比小军高 20 厘米，合 2 分米。

2. 6 米 = 60 分米

60 ÷ 9 = 6（套）……6（分米）

答：这块花布最多能做 6 套衣服。

3. 7 分米 = 700 毫米

700 − 45 = 655（毫米）

答：还剩 655 毫米。

4. 4 + 1 = 5（段）

40 ÷ 5 = 8（分米）

答：平均每段长 8 分米。

【点拨】木头锯 4 次会有 5 段。

周测培优卷 7

两位数加减两位数的计算及解决实际问题

一、61　19　32　10　53　66

24　61　45　25　9　50

二、1. 81　22

2. 54

3. <　>　>

4. 42 + 35 □　56 + 27 √

18 + 65 √　29 + 59 √

23 + 56 □　77 + 13 √

5. 29　72　46

三、18　7　70　47

四、1. 27 + 16 − 5 = 38（只）

答：现在湖边有 38 只船。

2. 76 − 25 + 18 = 69（张）

答：姐姐现在有 69 张邮票。

3. 75 − 32 − 27 = 16（页）

答：还剩下 16 页没有看。

4. 90 − 27 − 36 = 27（个）

答：还剩下 27 个。

5. 42 + 58 − 30 = 70（个）

答：二年级一班的同学还剩下手工娃娃 70 个。

荣德基好卷

关注微信公众号“教辅资料站”获取更多学习资料

周测培优卷 8

三位数加减两、三位数的笔算及解决实际问题

一、546 + 272 = 818

$$\begin{array}{r} 546 \\ +\ 272 \\ \hline 818 \end{array}$$

265 + 276 = 541

$$\begin{array}{r} 265 \\ +\ 276 \\ \hline 541 \end{array}$$ 验算：$$\begin{array}{r} 276 \\ +\ 265 \\ \hline 541 \end{array}$$

486 + 127 + 237 = 850

$$\begin{array}{r} 486 \\ +\ 127 \\ \hline 613 \end{array}\quad\begin{array}{r} 613 \\ +\ 237 \\ \hline 850 \end{array}$$

657 − 375 = 282

$$\begin{array}{r} 657 \\ -\ 375 \\ \hline 282 \end{array}$$

600 − 194 = 406

$$\begin{array}{r} 600 \\ -\ 194 \\ \hline 406 \end{array}$$ 验算：$$\begin{array}{r} 406 \\ +\ 194 \\ \hline 600 \end{array}$$

670 − 383 + 456 = 743

$$\begin{array}{r} 670 \\ -\ 383 \\ \hline 287 \end{array}\quad\begin{array}{r} 287 \\ +\ 456 \\ \hline 743 \end{array}$$

二、1. 384　66

2. ＞　＜　＞　＜

3. 301

4. 407　582　532　599

三、1. 533 − 246 √

2. 435 + 169 √

3. 768 − 178 √

四、1. 461 + 486 − 856 = 91（人）

答：还未达标的有 91 人。

2. 453 + 471 = 924（人）

924 ＜ 950

答：够。

3. 574 − 492 = 82（个）

答：还差 82 个字就能完成这周的练习任务了。

周测培优卷 9

直角、锐角和钝角

一、1.



2. 1　2

3. 直角

4. 4

5. 8

6. 大　大

二、1. √　2. ×　3. √

三、1. ③　2. ③　3. ③

四、1. ③⑦　②⑤⑧　①④⑥

荣德基好卷

关注微信公众号“教辅资料站”获取更多学习资料

2. （1）3　8　2　6

（2）3　2　2　4　2　1

3. （1）

【点拨】答案不唯一。

（2）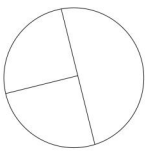

周测培优卷 10

简单的数据的收集和整理

一、10　3　4　5　5　4　2

二、1. 正正丅　正下　正正　正下

正正正正丅

2. 

3. 晴　雨

4. 10

5. 12－8＝4（天）

答：这个月晴天比雨天多4天。

6. 10－8＝2（天）

答：这个月阴天比雨天多2天。

三、1. 看书　体育运动

2. 6

3. 8

4. 14＋10＋8＋2＋4＝38（人）

答：这个班一共有38人。

期末复习冲刺卷

专项复习卷1　认识万以内的数

一、1. 10　1000　10

2. 五

3. 7　4　1　8

4. 7007

5. 6998　7000

6. 4403

7. 3000　1000

8. 9720　2079

9. 九百六十　一千零八

三千零八十

10. ＜　＜　＞　＜　＜　＞

二、1. 900　1300　700　8000　400

1100　9900　3000　10000

2. 1998　2008　2080

2108　3100

三、1.（1）500＋800＋1000＝2300（棵）

答：三种果树一共有2300棵。

（2）1000－800＝200（棵）

答：苹果树比杏树少200棵。

荣德基好卷

关注微信公众号“教辅资料站”获取更多学习资料

2．3890≈4000

2120≈2000

4000＋2000＝6000（元）

6000＞5000

答：不够。

期末复习冲刺卷

专项复习卷2　有余数的除法和两、三位数的加减法

一、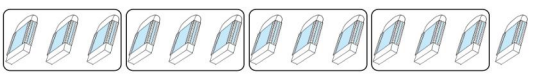

3　1　3　1

二、1．3　1

2．4　19

3．2

4．746　291

5．541

三、1．5　5　56　770　6　300

300　721

2．78÷9＝8……6

$$\begin{array}{r} 8 \\ 9\overline{)78} \\ \underline{72} \\ 6 \end{array}$$

47÷5＝9……2

$$\begin{array}{r} 9 \\ 5\overline{)47} \\ \underline{45} \\ 2 \end{array}$$

38÷6＝6……2

$$\begin{array}{r} 6 \\ 6\overline{)38} \\ \underline{36} \\ 2 \end{array}$$

287＋364＝651

$$\begin{array}{r} 287 \\ +\ 364 \\ \hline 651 \end{array}$$ 验算：$$\begin{array}{r} 364 \\ +\ 287 \\ \hline 651 \end{array}$$

532－438＝94

$$\begin{array}{r} 532 \\ -\ 438 \\ \hline 94 \end{array}$$ 验算：$$\begin{array}{r} 438 \\ +\ 94 \\ \hline 532 \end{array}$$

721－149＋207＝779

$$\begin{array}{r} 721 \\ -\ 149 \\ \hline 572 \end{array}$$　$$\begin{array}{r} 572 \\ +\ 207 \\ \hline 779 \end{array}$$

四、1．42÷5＝8（辆）……2（人）

8＋1＝9（辆）

答：需要9辆车。

2．25÷9＝2（筐）……7（个）

答：能装满2筐。

3．621＋39＝660（本）

答：二年级有660本课外书。

期末复习冲刺卷

专项复习卷3　时、分、秒与分米和毫米

一、1．毫米　厘米　厘米　厘米

米　厘米

关注微信公众号“教辅资料站”获取更多学习资料

2. （1）分　（2）时　（3）秒

（4）分　（5）分

3. 3

4. A

5. 1　60

6. 8　50　5　3　180　1　240　5

二、

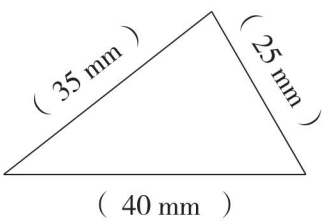

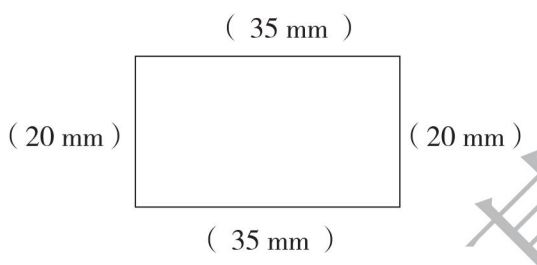

三、1. 下午2：30正在播出《儿童剧场》。

2. 正在播放《异想天开》。

3. 10：10正在播出什么节目？

《小小智慧树》

【点拨】答案不唯一。

期末复习冲刺卷

专项复习卷4　角的初步认识和认识方向

一、1. 3　1　直

2. 3　4

3. 9　直

4. 东　北　南

5. 4　3　6　3

二、1.（　）（　）（√）（√）（√）

2.（　）（√）（　）（√）（√）

三、1. 西北　东北　东南　西南

2.（1）长颈鹿　东南　东北　东南　西南

（2）西　东北　西　北　东南　西

（3）东北　西南　西北　长颈鹿　蛇　长颈鹿馆　虎园

期末复习冲刺卷

专项复习卷5　两步计算的加减法的实际问题与数据的收集和整理

一、1.（1）



（2）小兔　熊猫　4

荣德基好卷

关注微信公众号“教辅资料站”获取更多学习资料

2. 6　4　5　10　5

二、1. 75 − 48 + 40 = 67（筐）

答：这时商店有橘子 67 筐。

2. 84 − 32 − 26 = 26（页）

答：再看 26 页才能看完。

3. 30 + 24 − 34 = 20（盒）

答：还剩 20 盒。

三、1. 33　12　30　44

2. 电动　面包　32

3. 71

期末复习冲刺卷

满分压轴卷 1　常考易错突破卷（一）

一、1. 80　740　540　80　1000　800

5　8　8　12　8　45

2. 500 − 116 = 384

$$\begin{array}{r} 500 \\ -\ 116 \\ \hline 384 \end{array}$$ 验算：$$\begin{array}{r} 384 \\ +\ 116 \\ \hline 500 \end{array}$$

348 + 589 = 937

$$\begin{array}{r} 348 \\ +\ 589 \\ \hline 937 \end{array}$$ 验算：$$\begin{array}{r} 589 \\ +\ 348 \\ \hline 937 \end{array}$$

75 ÷ 8 = 9……3

$$\begin{array}{r} 9 \\ 8\overline{)75} \\ 72 \\ \hline 3 \end{array}$$

二、1. 430　304

2. 852　205

3. 8

4. 厘米

5. 6　8

6. 3　9　4　3　8　7

7. <　=　>　<　=　>

三、4　3　0　5　2　1　10　4　2

四、1. 17 ÷ 5 = 3（组）……2（朵）

17 ÷ 3 = 5（朵）……2（朵）

2. 17 ÷ 4 = 4（盆）……1（盆）

答：每班分 4 盆，还剩 1 盆。

3. 97 + 105 + 97 = 299（人）

答：三个年级一共去了 299 人。

4. 178 + 35 = 213（只）

213 + 59 = 272（只）

答：小灰兔有 213 只，小黑兔有 272 只。

期末复习冲刺卷

满分压轴卷 2　常考易错突破卷（二）

一、1. 100　540　600　5　50

150　820　600　63　9

关注微信公众号“教辅资料站”获取更多学习资料

2. 486 + 374 = 860

$$\begin{array}{r} 486 \\ +\ 374 \\ \hline 860 \end{array}$$ 验算: $$\begin{array}{r} 374 \\ +\ 486 \\ \hline 860 \end{array}$$

702 − 308 = 394

$$\begin{array}{r} 702 \\ -\ 308 \\ \hline 394 \end{array}$$ 验算: $$\begin{array}{r} 394 \\ +\ 308 \\ \hline 702 \end{array}$$

39 ÷ 5 = 7……4

$$\begin{array}{r} 7 \\ 5\overline{)39} \\ 35 \\ \hline 4 \end{array}$$

二、1. 4

2. 十　个　百　四

3. 130　420

4. 9　8　1000

5. 801

6. 10　10　100　100　20　70

7. 厘米　米　毫米

8. <　=　>

9. 600　300　700　700

三、1.



2. （1）（2）（3）如图。

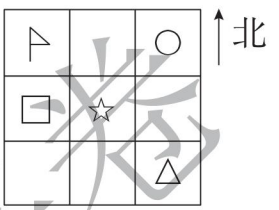

（4）西北　东南

四、1. 5

2. 10 + 32 + 5 = 47（名）

答：这个班有 47 名学生。

荣德基好卷

关注微信公众号“教辅资料站”获取更多学习资料

《好卷》题题好　成绩步步高



荣德基好卷

荣德基官方网站: www.rudder.com.cn

荣德基天猫旗舰店: http://rongdeji.tmall.com

关注微信公众号“教辅资料站”获取更多学习资料