好卷



同步 跟踪检测 | 周测 教材过关卷 | 单元 达标测试卷 | 期中 测试卷

期末 复习冲刺 | 专项 期末归类卷 | 期末 测试卷

教辅资料站

电子教辅　试卷练习
知识总结　备课资源

扫码关注获取更多学习资料

二年级 下 SJ版 数学

好题 ★ 好卷 ★ 好成绩

吉林教育出版社

好卷



主 编：荣德基　　本册主编：金干周

二年级 数学 下 SJ版

吉林教育出版社

目录

同步跟踪检测卷

大卷

单元检测卷（7套）

第一单元跟踪检测卷 …… 1
第二、三单元跟踪检测卷 …… 3
第四单元跟踪检测卷 …… 5
期中检测卷 …… 7
第五单元跟踪检测卷 …… 9
第六单元跟踪检测卷 …… 11
第七、八单元跟踪检测卷 …… 13

小卷

周测培优卷（10套）

◆有余数的除法 …… 1
◆时、分、秒 …… 3
◆认识方向 …… 5
◆万以内数的认识及组成 …… 7
万以内数的大小比较及简单的近似数 …… 9
◆认识分米和毫米、简单的单位换算 …… 11
◆两位数加减两位数的计算及解决实际问题 …… 13
三位数加减两、三位数的笔算及解决实际问题 …… 15
◆直角、锐角和钝角 …… 17
◆简单的数据的收集和整理 …… 19

期末复习冲刺卷

大卷

模块过关卷（2套）

数与代数　统计 …… 15
图形与几何 …… 17

仿真模拟卷（4套）

仿真模拟卷（一） …… 19
仿真模拟卷（二） …… 21
江苏省某名校期末测试卷 …… 23
山西省某名校期末测试卷 …… 25
参考答案及点拨 …… 27

小卷

专项复习卷（5套）

认识万以内的数 …… 21
有余数的除法和两、三位数的加减法 …… 23
时、分、秒与分米和毫米 …… 25
角的初步认识和认识方向 …… 27
两步计算的加减法的实际问题与数据的收集和整理 …… 29

满分压轴卷（2套）

常考易错突破卷（一） …… 31
常考易错突破卷（二） …… 33
参考答案及点拨 …… 35

好卷　全面测评 环环相扣有抓手
专项突破 重难易错不失分

微信公众号 好卷 教辅资料站
关注微信公众号“教辅资料站”获取更多学习资料

如何选择一本好卷？

现在市场上试卷类教辅比比皆是，质量却参差不齐，加之各学科“核心素养”的提出，就更加突显出一本“好”卷的稀有和珍贵。如何慧眼识珠，客观并被选到一本“好”卷，令教师教学如鱼得水，使学生学习事半功倍，显得至关重要。欣德基老师将其与全国众多优秀教改专家的研究成果汇总成四点分享如下，希望对广大师生有所裨益。

1 形式上要“好用”

测试方便：活页试卷，收发自如。

时间灵活：课后自测、课堂小测、班级统测，一应俱全。

卷面规范：字迹清晰，题空合理，版面整齐。

2 读懂试卷优劣的“四个指标”

一份试卷质量的优劣可用四个指标来评价：信度、效度、难度和区分度。

信　度：真实地反映考生的实际水平，体现在试题的难度、题目的数量、题目用语的准确性方面。

效　度：评测目的明确、命题范围准确、题目考查形式合理。

难　度：每一道试题的难度合理，整套试卷的难度适中。

区分度：区分度高的试卷能将不同水平的学生区分开来，水平高的学生得高分，水平低的学生得低分。

3 抓住卷的核心：“好题”

卷的核心是“好题”，每套卷中的好题堪称灵魂，是广大师生十分期待的。

“好题”特征之一是：**引领命题方向**。如题型新颖、考法新奇、结合生活实际、情境化、应用性突出。

“好题”特征之二是：**体现学科素养**。如：语文倡导主题读写能力测评，数学注重实际问题的解决，英语倾向于听说读写综合能力提升。

4 解决老师和学生痛点：“实用”

市场上现有试卷多数为“大卷”，即标准统考卷，在评测时间及针对性上老师会觉得用着不顺手，不能真正做到与教学同步及针对性测评。老师们都急需短时高效、针对性强的“小卷”，如针对每单元基础知识梳理的评测、专项应用能力的评测及主题阅读素养的评测等。

抓住以上四点，即可帮你锁定一本好的试卷，让你收获满满！



《好卷》正是一本这样的书！用好卷 做好题 定能取得好成绩！



拍手歌

DAI SHOU GE

你拍一，　我拍一，　高效学习做“好题”；
你拍二，　我拍二，　我有《好卷》藏宝袋；
你拍三，　我拍三，　常做习题不怕难；
你拍四，　我拍四，　我是勤学好孩子；
你拍五，　我拍五，　天天向上不马虎；
你拍六，　我拍六，　快乐成长争优秀；
你拍七，　我拍七，　循序渐进好阶梯；
你拍八，　我拍八，　成绩优秀顶呱呱；
你拍九，　我拍九，　学习习惯要持久；
你拍十，　我拍十，　永远认真学知识。



关注微信公众号“教辅资料站”获取更多学习资料

第一单元 跟踪检测卷

有余数的除法

时间：60分钟　满分：100分+10分

题号	一	二	三	四	五	六	附加题	总分
得分								

一、填空。（每空1分，共14分）

1. 

（1）13个，每5个一份，可以分成（　　）份，还剩（　　）个。

13÷5=□（份）……□（个）

（2）13个，分成2份，每份（　　）个，还剩（　　）个。

13÷2=□（个）……□（个）

2. 在算式19÷6=3……1中，商是（　　），余数是（　　）。

3. 在□÷5=□……□中，余数最大是（　　）。

4. 16里面最多有（　　）个3，34里面最多有（　　）个8。

5. 38颗糖，最少再添上（　　）颗后就能正好平均分给8个小朋友。

二、判断。（对的在括号里打“√”，错的打“×”。每题2分，共10分）

1. 32÷6=4……8　（　　）

2. 除数是7，余数一定是6。　（　　）

3. 在□÷6=7……□中，被除数最大是48。　（　　）

4. 妈妈准备买16千克油，用能装5千克的油桶去装，至少要用3个这样的油桶才能一次买回这些油。　（　　）

5. 修一条长35米的水渠，每天修6米，最少要修6天。　（　　）

三、选择。（将正确答案的序号填在括号里。每题2分，共10分）

1. 下列计算正确的是（　　）。

①34÷5=6……4　②43÷8=4……11　③45÷6=6……9

2. 下面各数除以9没有余数的是（　　）。

①55　②81　③29

3. 在算式☆÷□=□……4中，除数可以是（　　）。

①5　②1　③4

4. 有一篮苹果，平均分给6个小朋友，如果每个小朋友分7个，那么还剩3个，这篮苹果一共有（　　）个。

①21　②42　③45

5. 27个同学去玄武湖公园划船，每条船只能坐8个同学，至少要租（　　）条船。

①3　②4　③5

四、计算。（共27分）

1. 直接写出得数。（每题1分，共15分）

4×3=	64÷8=	24÷4=
4+4=	21÷3+6=	40÷8=
36÷9=	9÷9=	2×9=
5×7+6=	9×5=	36÷6=
32−8=	42÷7=	27÷3+6=

2. 用竖式计算。（每题4分，共12分）

19÷6=　　71÷9=　　37÷6=

重点提示：请不要在密封线内答题哦！

关注微信公众号“教辅资料站”获取更多学习资料

五、找一找，连一连。（8 分）

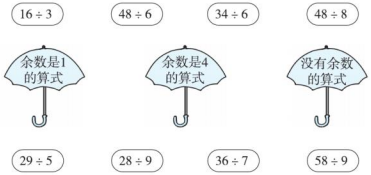

六、解决实际问题。（共 31 分）

1. 把 14 本《童话故事》送给幼儿园的 6 个小朋友，平均每个小朋友分得几本？还剩多少本？（5 分）



2. 食堂买来 40 袋面粉，如果每天吃 7 袋，可以吃几天？还剩几袋？如果每天吃 6 袋呢？（6 分）

3. 53 人一起吃饭，至少需要多少张这样的桌子？（5 分）



4. 盐城小学为了美化校园环境，买来 75 盆花，至少拿走几盆后，正好平均分给 9 个班？（5 分）

5. 一个旅行团乘车去机场。



（1）如果都坐面包车，可以坐满几辆？还剩几人？（5 分）

（2）如果都坐小轿车，至少需要几辆车？（5 分）

附加题：（10 分）

在□里填上合适的数字，使竖式成立。



关注微信公众号“教辅资料站”获取更多学习资料

第二、三单元 跟踪检测卷

时、分、秒　认识方向

时间：60分钟　满分：100分+10分

题号	一	二	三	四	五	六	七	八	附加题	总分
得分										

姓名　学号　班级　学校

一、单位换算。（每空1分，共4分）

60秒＝（　　）分　　3分＝（　　）秒

1时＝（　　）分　　120分＝（　　）时

二、填空。（每空1分，共22分）

1. 钟面上，时针指在6和7之间，分针指着6，表示的时间是（　　）；时针接近8，分针指着11，表示的时间是（　　）。

2. 分针从3走到8，走了（　　）分；时针从3走到8，走了（　　）时。

3. 一节课的时间是40分钟，课间是10分钟，再经过（　　）分钟就是1小时。

4. 晚上，当你面对着北极星的时候，你的后面是（　　）面，你的右面是（　　）面，你的左面是（　　）面。

5. 看图回答问题。



小丽朗读一首诗大约要30秒。



小勇录完一篇稿子正好用了5分钟。



小亮踢一场足球比赛大约需要1小时25分钟。

（1）小丽朗读四首诗大约要（　　）秒，合（　　）分钟。

（2）小勇录完一篇稿子的时间，分针要走（　　）大格，秒针要走（　　）圈。

（3）小亮踢一场足球比赛的时间大约是（　　）分钟。

6. 在○里填上“＞”“＜”或“＝”。

7时○7分　　2分○100秒　　30分○半小时

7. 在（　　）里填上合适的单位。

（1）琳琳每天大约睡9（　　）。（2）唱一首歌大约要用3（　　）。

（3）跳20下绳约用15（　　）。（4）播放一集动画片约用25（　　）。

（5）吃饭大约要用30（　　）。（6）小学生每天写作业约用30（　　）。

三、选择。（将正确答案的序号填在括号里。每题2分，共10分）

1. 太阳下菲菲的影子在她的东面，太阳在她的（　　）面。

① 东　　② 西　　③ 南

2. 兰兰从家出发，先向南走了一段，又向西走了一段，就到了超市，超市在兰兰家的（　　）面。

① 西北　　② 东南　　③ 西南

3. 分针从一个数字走到相邻的下一个数字，经过的时间是（　　）。

① 1分钟　　② 5分钟　　③ 1小时

4. 分针指着3，时针刚经过5，这时的时间是（　　）。

① 5；30　　② 5；15　　③ 3；25

5. 妈妈洗衣服用了20分钟，做饭用了30分钟，再休息（　　）分钟正好是1小时。

① 10　　② 20　　③ 50

四、写出下面钟面上的时间。（每题2分，共12分）



____时____分

____：____



____时____分

____：____



____时____分

____：____



____时____分

____：____



____时____分

____：____



____时____分

____：____

温馨提示：请不要在密封线内答题哦！

关注微信公众号“教辅资料站”获取更多学习资料

五、给钟面画上缺少的分针，再根据规律在第 4 个钟面上画时针和分针，并写出时间。（每题 2 分，共 8 分）



3：00　　3：15　　3：30　　（　　）

六、看图填空。（每空 2 分，共 18 分）

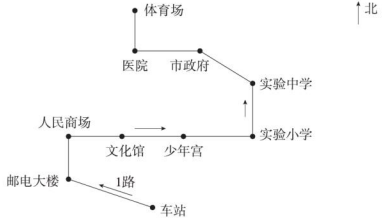

1. 1 路公共汽车从车站出发，向（　　）面行驶到邮电大楼，再向（　　）面行驶到人民商场。
2. 体育场在医院的（　　）面，医院在体育场的（　　）面。
3. 实验中学在实验小学的（　　）面，从人民商场去邮电大楼应向（　　）面走，从邮电大楼到车站应向（　　）面走。市政府在医院的（　　）面，在实验中学的（　　）面。

七、画一画，填一填。（7 分）

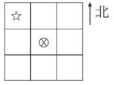

1. 在⊗的东南面画一个△，在⊗的西南面画一个○，在⊗的东北面画一个□。
2. ☆在⊗的（　　）面，⊗在☆的（　　）面。
3. □的西南面有（　　）和（　　）。

八、解决实际问题。（共 19 分）

1. 蜗牛每小时爬行 9 米，从蜗牛家到湖边一共有多少米？（6 分）

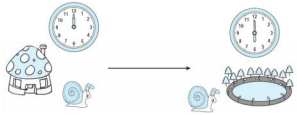

2. 六一儿童节文艺汇演要演出 1 小时，已经演出了 50 分，文艺汇演还有多长时间结束？（6 分）

3. 王阿姨加工一个零件需要 6 分，照这样计算，半小时她能加工多少个零件？（7 分）

附加题：（10 分）

1. 兰兰家和王芳家都在学校的东面，兰兰家离学校 500 米，王芳家离学校 300 米，兰兰家和王芳家相距（　　）米。
2. 1 个人吃 1 块糖要用 3 分，1 个人吃 8 块糖要用（　　）分，8 个人同时各吃 1 块糖要用（　　）分。

关注微信公众号“教辅资料站”获取更多学习资料

第四单元 跟踪检测卷

认识万以内的数

时间：60分钟　满分：100分+10分

题号	一	二	三	四	五	六	附加题	总分
得分								

一、直接写出得数。（每题1分，共12分）

300＋400＝　　50＋500＝　　1600－600＝

380－80＝　　4500－500＝　　6300－6000＝

7700－7000＝　　800＋2000＝　　1300－300＝

400＋40＝　　900－500＝　　3000＋7000＝

二、填空。（每空1分，共40分）

1. 2802是（　　）位数，读作（　　），它的最高位是（　　）位，它是由（　　）个千、（　　）个百和（　　）个一组成的。

2. 由8个千、4个百、6个十和3个一组成的数是（　　）。

4030里面有4个（　　）和3个（　　）。

3. 20个十是（　　）；（　　）个百是1000。

8000里有（　　）个千，再添上（　　）个千就是10000。

4. 比800小1的数是（　　）；比最大的三位数大1的数是（　　）。

5. 与4599相邻的两个数是（　　）和（　　）。

6. 按从大到小的顺序排列下面电器的价格。



2560元　1999元　2686元　2403元　789元

（　　）＞（　　）＞（　　）＞（　　）＞（　　）

7. 用5、0、6、0这四个数组成四位数，不读“零”的是（　　）和（　　），只读一个“零”的是（　　）、（　　）、（　　）和（　　），最接近5000的数是（　　）。

8. 在◯里填上“＞”或“＜”。

1050◯968　　3006◯3600

9999◯10000　　8105◯8110

9. □里最小能填几？

18□＞185　　□000＞4981　　3490＜3□68

10. 写出下面各数约等于几百或几千。

594≈（　　）　5098≈（　　）　993≈（　　）　9188≈（　　）

三、看图写数。（每题2分，共8分）

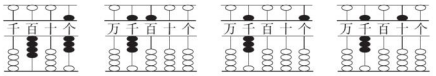

（　　）　（　　）　（　　）　（　　）

四、按规律填数。（每空1分，共12分）

1. 10000，9900，（　　），（　　），9600，（　　）。

2. 2900，（　　），2920，2930，（　　）。

3. 350，400，（　　），（　　），550。

4. 608，（　　），588，578，（　　）。

5. 371，374，（　　），（　　），（　　）。

五、选择。（将正确答案的序号填在括号里。每题2分，共8分）

1. 3879中的“8”表示（　　）。

①8个一　　②8个十　　③8个百

2. 下列各数中只读出一个“零”的是（　　）。

①990　　②9009　　③9100

关注微信公众号“教辅资料站”获取更多学习资料

重点提示：请不要在密封线内答题哦！

姓名　学号　班级　学校

3. 一个四位数，千位和个位上都是1，其他数位上都是0，这个数是(　　)。

① 1010　　② 1001　　③ 1100

4. 用3、6、4可以组成(　　)个不同的三位数。

① 4　　② 6　　③ 8

六、解决实际问题。(共20分)

1. 新华书店新进4000本《童话故事》，《开心乐园》比《童话故事》多进700本，《开心乐园》进了多少本？(3分)

2. 实验学校有男生2300人，女生2000人，已经参加体检的有3000人，没有参加体检的有多少人？(3分)

3. 图书室各种图书本数统计如下表：

童话书	科技书	故事书
4025	1952	2756

(1) 每种图书各接近几千本？(3分)

(2) 最多的图书比最少的图书大约多几千本？(3分)

4.



(1) 王林每天上午去学校，下午放学回家，他一天来回要走多少米？(3分)

(2) 王林从家出发经过学校到少年宫，要走多少米？(3分)

(3) 你还能提出什么数学问题？提出并解答。(2分)

附加题：(10分)

有一个四位数，它的个位、十位、百位、千位上的数字加起来是24，这个四位数最大是多少？最小是多少？

自己说说

老师点评

家长点评

关注微信公众号“教辅资料站”获取更多学习资料

期中 检测卷

时间：60分钟　满分：100分+10分

题号	一	二	三	四	五	附加题	总分
得分							

姓名　学号　班级　学校

一、计算。（共20分）

1. 直接写得数。（每题1分，共12分）

420 − 20 =　　200 + 60 =　　3300 − 300 =　　800 − 300 =

600 − 400 =　　400 + 600 =　　1100 − 100 =　　600 + 2000 =

500 − 300 =　　6700 − 6000 =　　380 − 80 =　　9800 − 800 =

2. 用竖式计算。（每题2分，共8分）

58 ÷ 6 =　　35 ÷ 4 =　　43 ÷ 7 =　　63 ÷ 9 =

二、填空。（第1题3分，其余每空1分，共35分）

1. 先圈一圈，再填一填。



14个☆，每4个一份，分了（　　）份，还剩（　　）个。

2. 在钟面上，时针从12走到5走了（　　）时；分针从3走到9走了（　　）分。

3. 6个千、8个十和5个一合起来是（　　），一万里面有10个（　　）。

4. 54里面最多有（　　）个7，43里面最多有（　　）个5。

5. 3459里面有（　　）个千、（　　）个百、（　　）个十和（　　）个一。

6. 在（　　）里填上合适的时间单位。

（1）王老师从家步行到学校用20（　　）。

（2）小学生每天在校时间为6（　　）。

（3）明明等红灯用了30（　　）。

（4）看一场电影用了2（　　）。

7. 当你面向南时，你的后面是（　　），左面是（　　），右面是（　　）。

8. 最大的两位数与最小的三位数的和是（　　）。

9. 从 0 、 4 、 4 、 7 中任意选出三张卡片组成不同的三位数，其中最小的数是（　　），最大的数是（　　）。

10. 在（　　）里填上合适的数。

3分 = （　　）秒　　2时 = （　　）分

60分 = （　　）时　　60秒 = （　　）分

11. 根据规律，在（　　）里填上合适的数。

（1）8700，8800，8900，（　　），（　　）。

（2）7030，7020，7010，（　　），（　　）。

（3）1707，1708，1709，（　　），（　　）。

12. 在□ ÷ □ = 4……3中，除数最小是（　　），这时被除数是（　　）。

三、选择。（将正确答案的序号填在括号里。每题2分，共8分）

1. 3□8 > 329，□里最小填（　　）。

① 3　　② 0　　③ 2

2. 274里的“4”表示（　　）。

① 千 百 十 个　② 千 百 十 个　③ 千 百 十 个

3. 分针从9走到12，经过的时间是（　　）。

① 3分钟　　② 15分钟　　③ 3小时

4. 张丽面向西南方向站立，当她向后转之后，她的前面是（　　）方向。

① 东北　　② 西北　　③ 东南

证点易评：请不要在密封线内答题哦！

关注微信公众号“教辅资料站”获取更多学习资料

四、观察操作题。（共 8 分）

1. 想一想，填一填。

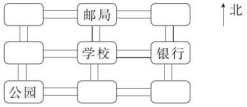

（1）学校的（　　）面是银行；学校在公园的（　　）面。（2 分）

（2）在图上标出广场、商场的位置。（2 分）

学校的西北面是广场；商场在学校的东南面。

2. 写出前两个钟面上的时间，并根据所给时间画出后两个钟面中缺少的分针。（4 分）



____：____　　____：____　　1：05　　6：45

五、解决实际问题。（共 29 分）

1.

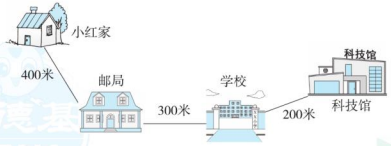

小红从邮局出发，经过学校再到科技馆，走了多少米？（5 分）

2. 5 元可以买几块这样的橡皮？再加几角可以多买一块橡皮？（6 分）



8角

3. 学校组织二年级学生去参观博物馆。上午去了 240 人，下午去的人数比上午少 40 人，下午去了多少人？（6 分）

4.



398元　　214元　　292元　　186元

（1）买一台微波炉和一台电风扇大约需要几百元？（6 分）

（2）估一估，爸爸带了 500 元，买一辆自行车和一台电吹风，够不够？（6 分）

附加题：（10 分）

一个三位数相邻两个数字的和都是 10，百位、十位、个位上的数字和是 16，这个三位数是多少？

自己说说
老师点评
家长点评
微信公众号
教辅资料站
关注微信公众号“教辅资料站”获取更多学习资料

第五单元 跟踪检测卷

分米和毫米

时间：60分钟　满分：100分+10分

题号	一	二	三	四	五	六	附加题	总分
得分								

一、填空。（每空1分，共24分）

1. 一般测量比较长的物体用（　　）作单位。

2. 如下图，铅笔①长（　　）毫米，铅笔②长（　　）毫米。铅笔①比铅笔②长（　　）毫米。

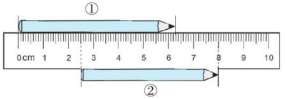

3. 如下图，这支铅笔长（　　）毫米，用掉（　　）毫米后就是40毫米。

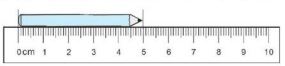

4. 1分米＝（　　）毫米　　4米＝（　　）分米
7米＝（　　）厘米　　2分米＝（　　）毫米
60毫米＝（　　）厘米　　70分米＝（　　）毫米
（　　）毫米＝1米　　500厘米＝（　　）米

5. 在◯里填上“＞”“＜”或“＝”。
40毫米◯5分米　　7厘米◯70分米　　5毫米◯4厘米
1米◯99厘米　　10分米◯1米　　70毫米◯8厘米

6. 小明、小兰、小亮比赛跳远，小明跳了8分米，小兰跳了98厘米，小亮跳了1米，第一名是（　　），第二名是（　　），第三名是（　　）。

7. 一根绳子用去40分米，还剩3米，这根绳子原来长（　　）分米。

二、在括号里填上合适的单位。（每题1分，共8分）

1. 一根旗杆高15（　　）。　　2. 一块玻璃厚5（　　）。
3. 一幢大楼高20（　　）。　　4. 10张银行卡摞起来约厚1（　　）。
5. 一本字典厚5（　　）。　　6. 铁钉长38（　　）。
7. 一个文具盒长18（　　）。　　8. 一块黑板约长3（　　）。

三、判断。（对的在括号里打“√”，错的打“×”。每题2分，共8分）

1. 姚明的手指长8分米。（　　）
2. 8分米和80毫米一样长。（　　）
3. 一只茶杯高约160厘米。（　　）
4. 一张沙发长约2分米。（　　）

四、选择。（将正确答案的序号填在括号里。每题2分，共10分）

1. 某年南京市2月份的降雨量大约是35（　　）。
① 分米　　② 米　　③ 毫米

2. （　　）最接近8厘米。
① 79厘米　　② 8分米　　③ 85毫米

3. 小明走一步，两脚之间的距离大约是（　　）。
① 30毫米　　② 30分米　　③ 30厘米

4. 把一根2米长的彩带对折两次后长（　　）。
① 1米　　② 5分米　　③ 4米

5. 要在墙上钉一根钉子挂油画，（　　）长的钉子最合适。
① 60毫米　　② 6毫米　　③ 6分米

五、操作题。（共9分）

1. 画一条长40毫米的线段。（2分）

2. 画一条比15毫米长20毫米的线段。（3分）

3. 把下面的长度按从小到大的顺序排列。（4分）
3厘米　　310毫米　　50厘米　　4米

重点提示：请不要在密封线内答题哦！

关注微信公众号“教辅资料站”获取更多学习资料

六、解决实际问题。（共 41 分）

1. 把一根长 48 米的绳子，平均剪成 8 段，每段长多少米？合多少分米？（6 分）

2. 小鸡每分钟跑 85 米，小鸭每分钟比小鸡少跑 20 米，小鸭每分钟跑多少米？（7 分）

3. 把一根绳子对折再对折，量出每段长 7 厘米，这根绳子一共长多少厘米？（7 分）

4. 一根 5 分米长的铁丝，工人师傅想用它做 6 个铁圈，每个铁圈约用 5 厘米长的铁丝。

（1）做这些铁圈一共用了多少厘米铁丝？（7 分）

（2）这根铁丝还剩多少厘米？（7 分）

5. 修路。（7 分）



附加题：（10 分）

杯中水的高度为 100 毫米，小明把一根小棒竖直插入水中，倒过头把小棒再次插入水中，这时发现小棒中间还剩下 60 毫米是干的，这根小棒长多少厘米？

自己说说
老师点评
家长点评
微信公众号
教辅资料站
关注微信公众号“教辅资料站”获取更多学习资料

第六单元 跟踪检测卷

两、三位数的加法和减法

时间：60分钟　满分：100分+10分

题号	一	二	三	四	五	六	附加题	总分
得分								

一、计算。（共30分）

1. 口算。（每题1分，共16分）

50 + 90 =　　580 − 80 =　　300 + 700 =　　40 + 200 =

86 − 34 =　　94 − 28 =　　130 − 70 =　　25 + 49 =

20 + 920 =　　66 + 29 =　　140 − 50 =　　80 − 45 =

75 − 57 =　　400 + 800 =　　37 + 45 =　　1000 − 200 =

2. 用竖式计算，带☆的要验算。（要验算的每题3分，其余每题2分，共14分）

☆398 + 135 =　　168 + 240 =　　503 + 298 − 178 =

☆516 − 274 =　　708 − 324 =　　935 − 347 + 236 =

二、填空。（每空2分，共20分）

1. 比237多200的数是（　　）；比545少（　　）的数是300。

2. 在○里填上“＞”“＜”或“＝”。

770 − 70 ○ 770 − 700　　1000 − 30 ○ 970

140 + 30 ○ 140 − 30　　450 − 240 ○ 540 − 240

790 − 300 ○ 760 − 270　　324 + 159 ○ 124 + 359

3. 植树节，二年级栽树596棵，三年级栽树209棵，三年级比二年级大约少栽（　　）棵树，二、三年级大约一共栽了（　　）棵树。

三、填表。（每空2分，共8分）

被减数	702	1000		725
减数	295	327	374	
差			158	126

四、选择。（将正确答案的序号填在括号里。每题2分，共10分）

1. 848，747，□，545，□里应填（　　）。

① 636　　② 646　　③ 647

2. 下列算式中，结果小于500的是（　　）。

① 290 + 110　　② 189 + 324　　③ 680 − 180

3. 在207 + □38中，如果和是八百多，那么□里的数是（　　）。

① 6　　② 5　　③ 4

4. 一本书，琳琳第一天看了48页，第二天看了52页，第三天应从第（　　）页开始看起。

① 100　　② 101　　③ 99

5. 学校图书馆买来一批新书，编号从450到624，学校一共买了（　　）本新书。

① 174　　② 175　　③ 624

五、在下面方框里填上合适的数。（8分）

□ 2 5
− 5 3 □
3 8 7

2 □ 6
+ □ 5 2
3 8 8

姓名　学号　班级　学校

重点提示：请不要在密封线内答题哦！

关注微信公众号“教辅资料站”获取更多学习资料

六、解决实际问题。（共 24 分）

1. 农场有白兔 268 只，灰兔 375 只，养的羊比兔多 194 只，农场里养了多少只羊？（3 分）

2. 杨澜看一本故事书，第一天看了 178 页，第二天看了 194 页，还剩 148 页没有看。

（1）杨澜两天一共看了多少页？（3 分）

（2）这本书一共有多少页？（3 分）

3.


198元


106元


205元


95元

（1）买其中的两件商品，最多需要多少元？最少需要多少元？（3 分）

（2）妈妈带了 400 元，买了一个电饭煲，还剩多少钱？（3 分）

4.

户名	四月底读数（千瓦时）	五月底读数（千瓦时）	实际用电数（千瓦时）
李小芳	637	823	
张宁	922	1045	
吴天宇	706	965	

（1）分别列式算出三户人家五月的用电数，并填在表中。（3 分）

（2）吴天宇家和张宁家五月用电相差多少千瓦时？（3 分）

（3）三户人家五月一共用电多少千瓦时？（3 分）

附加题：（10 分）

```
  6 1 0
-   ☆ ☆
-------
  ☆ ☆ ☆
```

☆ = （　　）

```
  6 △ △
-   4 △
-------
  5 8 0
```

△ = （　　）

关注微信公众号“教辅资料站”获取更多学习资料

第七、八单元 跟踪检测卷

角的初步认识 数据的收集和整理（一）

时间：60分钟 满分：100分+10分

题号	一	二	三	四	五	六	附加题	总分
得分								

一、填空。（每空1分，共20分）

1. 每个角都有（　　）个顶点，（　　）条边；三角尺上有（　　）个角，其中有（　　）个直角。

2. 下图中，是角的打“√”，不是角的打“×”。



（　　）（　　）（　　）（　　）（　　）

3. 数一数，下图中各有几个角？



（　　）个　（　　）个　（　　）个　（　　）个

4. 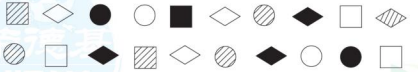

正方形	圆	菱形
（　　）个	（　　）个	（　　）个

无色	画斜线	黑色
（　　）个	（　　）个	（　　）个

二、判断。（对的在括号里打“√”，错的打“×”。每题2分，共10分）

1. 角的边画的越长，角就越大。（　　）
2. 用放大镜去看直角，直角会变大。（　　）
3. 两个锐角拼成的角不是直角就是锐角。（　　）
4. 黑板上的直角和三角尺上的直角一样大。（　　）
5. 一张正方形的纸有四个角，剪去一个角还有三个角。（　　）

三、看图填一填。（9分）



（　　）个直角　（　　）个直角　（　　）个直角

（　　）个锐角　（　　）个锐角　（　　）个锐角

（　　）个钝角　（　　）个钝角　（　　）个钝角

四、给下面的图形增加一条线，使它满足下面的要求。（8分）



增加4个直角



增加3个直角



增加3个直角



增加2个直角

五、分一分，填一填。（共38分）

1. 

4元　2元　4元　3元　2元　3元　3元　2元　3元

（1）（4分）

形状	有手柄	无手柄
个数		

（2）（10分）

价格	2元		
个数			

关注微信公众号“教辅资料站”获取更多学习资料

温馨提示：请不要在密封线内答题哦！

姓名　学号　班级　学校

2.



（1）用画“正”字的方法记录统计的结果。（8 分）

	
	
	
	

（2）你能根据上面的记录，在下面的表格中填一填吗？（8 分）

			
（　　）个	（　　）个	（　　）个	（　　）个

（3）如果用 1 个 □ 表示 1 个球，请涂色表示各种球的个数。（8 分）



六、按要求分类整理并填表，然后回答问题。（共 15 分）

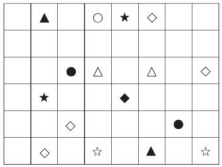

请把上面的图形分类整理。（8 分）

	有阴影的	无阴影的	合计
个数			

	△	○	☆	◇	合计
个数					

（1）根据第 1 个表格可以知道，无阴影的图形有（　　）个，比有阴影的图形多（　　）个。（4 分）

（2）根据第 2 个表格可以知道，（　　）和（　　）同样多，（　　）最多。（3 分）

附加题：（10 分）

一个三角形，剪去一个角，还剩几个角？在下面画一画。

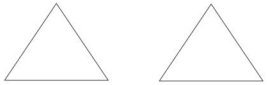

关注微信公众号“教辅资料站”获取更多学习资料

期末复习冲刺卷 模块过关卷（一）

数与代数 统计

时间：60分钟 满分：100分+10分

题号	一	二	三	四	五	附加题	总分
得分							

姓名 学号 班级 学校

一、计算。（共29分）

1. 直接写出得数。（每题1分，共12分）

25 ÷ 5 =	70 + 90 =	81 ÷ 9 =
40 + 600 =	7 × 8 =	63 ÷ 7 =
58 − 28 =	45 + 36 =	810 − 100 =
8400 − 8000 =	4000 + 6000 =	45 + 53 =

2. 结果大约是几百？（每题1分，共3分）

895 − 287 ≈　　192 + 689 ≈　　995 − 496 ≈

3. 用竖式计算，带☆的要验算。（要验算的每题3分，其余每题2分，共14分）

☆1000 − 364 =　　345 + 238 =　　23 ÷ 5 =

79 ÷ 9 =　　☆252 + 89 =　　450 + 58 + 243 =

二、填空。（第3题4分，其余每空1分，共38分）

1. □ ÷ □ = 8……4，除数最小是（　　），这时被除数是（　　）。

2. 钟面上，分针从12走到6，经过（　　）分，从4走到7，经过（　　）分；时针从12走到6，经过（　　）小时，从4走到7，经过（　　）小时。

3. 

□ ÷ □ = □（束）……□（个）

□ ÷ □ = □（个）……□（个）

4. 5个千和3个一组成的数是（　　），读作（　　）；100个十是（　　）；四百九十写作（　　），它里面有（　　）个十。

5. 3058中的“3”表示（　　）个（　　），6324中的“3”表示（　　）个（　　）。

6. 3205和2900相比，（　　）更接近3000。

7. 在○里填上“＞”“＜”或“＝”。

1时○100分　　120秒○2分　　6605○6560

450 − 50○350　　960○460 + 500　　650 − 56○360 + 45

8. □里最大能填几？

8□2＜891　　□09＜462

7563＞□563　　4□0＜470

9. 找规律填一填。

（1）6997，6998，6999，（　　），（　　）。

（2）220，210，200，（　　），（　　）。

（3）805，810，815，（　　），（　　）。

10. 最小的四位数与最大的三位数的和是（　　），差是（　　）。

重点提示：请不要在密封线内答题哦！
关注微信公众号“教辅资料站”获取更多学习资料

三、填表。（每空 2 分，共 6 分）

			
原有	（　　）台	165 台	364 台
又运进	342 台	（　　）台	180 台
现有	417 台	434 台	（　　）台

四、按要求画出钟面上缺少的分针。（每题 1 分，共 4 分）



6：50　　7：05　　9：00　　4：55

五、解决实际问题。（共 23 分）

1. 3 位老师带着 42 位同学去野营，每顶帐篷最多住 6 人，他们至少要准备几顶帐篷？（5 分）

2. 饲养场养鸡 785 只，养的鸭比鸡少 128 只，养的鹅比鸭多 350 只。

（1）饲养场养了多少只鸭？（3 分）

（2）饲养场养了多少只鹅？（3 分）

3. 下面是二（8）班体育小组同学情况调查记录表。

姓名	性别	项目	姓名	性别	项目
赵军	男	足球	吴雨	女	乒乓球
魏时	男	篮球	赵明	男	足球
张莹	女	排球	张平	男	篮球
王宁	男	乒乓球	田亮	男	篮球
赵静	女	乒乓球	孙鹏	男	篮球
王倩	女	排球	张月	女	乒乓球

（1）按性别分：

男生	女生
（　　）人	（　　）人

（2 分）

（2）按项目分：

足球	（　　）人
篮球	（　　）人
乒乓球	（　　）人
排球	（　　）人

（4 分）

（3）二（8）班体育小组的男生多，还是女生多？（3 分）

（4）通过分类，你还知道了什么？（3 分）

附加题：（10 分）

一桶油连桶重 24 千克，倒出一半的油后连桶重 13 千克，原来桶中有油多少千克？

关注微信公众号“教辅资料站”获取更多学习资料

期末复习冲刺卷 模块过关卷（二）

图形与几何

时间：60分钟　满分：100分+10分

题号	一	二	三	四	五	六	附加题	总分
得分								

一、填空。（每空1分，共30分）

1. 数一数，下面每个图形各有几个角？

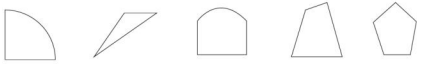

（　）个　（　）个　（　）个　（　）个　（　）个

2. 小明坐在客厅看电视，他的左面是北，他的右面是（　　），前面是（　　），后面是（　　）。

3. 王老师和陈老师面对面坐着，王老师面向南，陈老师面向（　　）。如果他们背对背坐着，陈老师面向西，王老师面向（　　）。他们所面对的方向正好（　　）（填“相同”或“相反”）。

4. 在括号里填上合适的数。

6米＝（　　）厘米　　（　　）分米＝40厘米

8厘米＝（　　）毫米　　（　　）厘米＝7分米

3米＝（　　）分米＝（　　）厘米

5. 在括号里填上合适的单位。

茶杯约高12（　　）。　　文具盒长2（　　）。

梳子长约15（　　）。　　汽车长4（　　）。

6. 在○里填上“＞”“＜”或“＝”。

2分米○10分米　　15厘米○10分米　　40分米○40毫米

500厘米○60米　　100毫米○1分米　　1分米○100厘米

20厘米○1分米　　10厘米○11毫米　　33分米○3米

二、把下面的角按从大到小的顺序排列。（8分）



①　②　③　④

（　　）＞（　　）＞（　　）＞（　　）

三、数一数，填一填。（每空2分，共12分）



①　②

图①中，锐角有（　　）个，直角有（　　）个，钝角有（　　）个。

图②中，锐角有（　　）个，直角有（　　）个，钝角有（　　）个。

四、操作题。（共10分）

1. 写一写。（6分）



钥匙长（　　）毫米　　铁钉长（　　）毫米　　回形针长（　　）毫米

2. 画一条比3厘米长20毫米的线段。（2分）

3. 画一个钝角。（2分）

关注微信公众号“教辅资料站”获取更多学习资料

五、走进农博园。（每空 2 分，共 18 分）

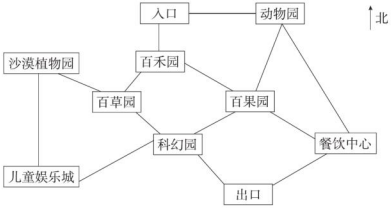

1. 农博园的入口在整个园区的（　　）面。
2. 百草园在百禾园的（　　）面，百禾园在百果园的（　　）面，百草园在百果园的（　　）面。
3. 出口在科幻园的（　　）面，在入口的（　　）面。
4. 从沙漠植物园出发，向（　　）走到儿童娱乐城，再向（　　）走到科幻园，再向（　　）走到出口。

六、解决实际问题。（共 22 分）

1. 从图书馆到公园一共 880 米。从学校到少年宫一共有多少米？（5 分）

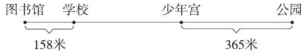

2. 一根绳子长 1 米，第一次用去 20 厘米，第二次用去 5 分米，现在比原来短了多少厘米？（5 分）

3. 有一支长 2 分米的铅笔，用了一段时间后，还剩下 9 厘米，用了多少厘米？（5 分）

4.

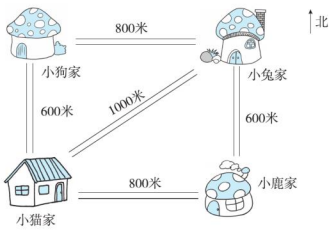

（1）小猫家在小兔家的（　　）面，在小鹿家的（　　）面。（2 分）

（2）小猫家到小兔家有（　　）条路线，最近的路线要怎么走？（2 分）

（3）小鹿从家经过小兔家到小狗家，一共要走多少米？（3 分）

附加题：（10 分）

下面各图中有几个角？

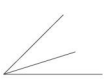

（　　）个

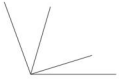

（　　）个

关注微信公众号“教辅资料站”获取更多学习资料

期末复习冲刺卷

仿真模拟卷（一）

时间：60分钟　满分：100分+10分

题号	一	二	三	四	五	六	七	附加题	总分
得分									

一、直接写出得数。（每题1分，共12分）

80 + 90 =　　130 − 60 =　　400 − 80 =

63 ÷ 9 =　　54 ÷ 6 =　　1000 − 800 =

36 ÷ 9 =　　40 + 600 =　　570 − 30 =

5 × 9 =　　420 − 20 =　　440 − 400 =

二、用竖式计算，带※的要验算。（要验算的每题3分，其余每题2分，共19分）

※487 + 293 =　　48 ÷ 6 =　　297 + 66 + 343 =

※246 + 315 =　　※700 − 566 =　　636 − 276 =

61 ÷ 9 =　　335 + 76 + 199 =

三、填空。（每空1分，共27分）

1. 一个数个位上是6，十位上是1，百位上是8，这个数是（　　）。

2. 8个一和7个百合起来是（　　）。

3. 最小的三位数是（　　），再加上（　　）个百是1000。

4. 右边计数器上表示的数是（　　），这个数加上1是（　　）。



5. △ ÷ 8 = 3……□，□里最大可以填（　　）；△ ÷ □ = 6……5，当□里填最小的数时，△等于（　　）。

6. 做一个正方体要用6张纸，35张纸最多能做（　　）个正方体。

7. 在◯里填上“＞”“＜”或“＝”。

232 ◯ 323　　36 + 32 ◯ 70　　75 − 19 ◯ 56

100厘米 ◯ 3米　　3分米 ◯ 10厘米　　9毫米 ◯ 1厘米

8.  左图中有（　　）个直角；有（　　）个锐角；有（　　）个钝角。

9. 时钟在（　　）时整和（　　）时整时，时针和分针形成的角是直角。

10. 100比50多（　　）；比280少80的数是（　　）。

11. 红星与黄星共有82个，黄星有39个，红星有（　　）个。

12. 爸爸身高185厘米，小明身高83厘米，估一估，两人身高大约相差（　　）厘米，合（　　）分米。

13. 在计数器上用4颗珠子表示三位数，最大是（　　），最小是（　　）。

四、填上合适的单位。（每题1分，共6分）

绕操场跑一圈需5（　　）。　　数学书厚度大约是5（　　）。

鼠标长10（　　）。　　无锡一周的降雨量是28（　　）。

买一个茶杯要8（　　）。　　小明做100道口算题用时6（　　）。

五、选择，在正确答案后面的□里打“√”。（每题2分，共6分）

1. 汽车上原来有乘客26人，到世纪公园站下车12人，上车8人，现在车上乘客与原来相比？

减少4人□　　减少8人□　　增加4人□

2. 一、二年级各借故事书210本，三年级借科技书300本。故事书一共借出多少本？

510本□　　210本□　　420本□

3. 同学们做了60颗☆，分给幼儿园大班12颗后，剩下的平均分给小班的6个班。大班与小班相比？

大班多4颗□　　大班多6颗□　　小班多36颗□

关注微信公众号“教辅资料站”获取更多学习资料

重点提示：请不要在密封线内答题哦！

姓名　学号　班级　学校

六、请根据下面的句子，将小朋友的名字写在合适的方框里。（每题1分，共4分）

1. 晶晶坐在小雨的东面。
2. 小雨的西北面坐着的是文文。
3. 丽丽的东北面坐着的是晶晶。
4. 林林坐在文文的南面，丽丽的西北面。



七、解决实际问题。（共26分）

1. 一本书有648页，小红还有87页没有看，她已经看了多少页？（3分）

2. 商店有电脑445台，售出了225台，又运来102台，现在商店里有电脑多少台？（5分）

3. 明明、亮亮、奇奇一起收集画片。明明收集了154张画片，亮亮比明明少收集了26张，比奇奇多收集了47张。亮亮和奇奇各收集了多少张画片？（5分）

4.



这些同学一共踢了多少下？（5分）

5.



图一　　图二

（1）你能按照形状分类整理一下，把结果填在下面的表里吗？（5分）

图形	合计	长方形	正方形	圆形	三角形
个数					

（2）统计一下组成图一和图二各用了多少个图形。（3分）

名称	合计	图一	图二
个数			

附加题：（10分）

一张长方形纸，你能剪去一个角后，使它还剩下3个角、4个角、5个角吗？试着画一画。

关注微信公众号“教辅资料站”获取更多学习资料

期末复习冲刺卷

仿真模拟卷（二）

时间：60分钟　满分：100分+10分

题号	一	二	三	四	五	附加题	总分
得分							

一、填空。（第1题4分，其余每空1分，共33分）

1. 看图列式。



□÷□=□（个）……□（个）

□÷□=□（盘）……□（个）

2. ◇÷△=4……5，△最小是（　　），这时◇是（　　）。

3. 8个一和3个千合起来是（　　）。8个百和5个十合起来是（　　）。

4. 用3、4、0、6组成的四位数最大是（　　），最小是（　　），最接近4000的是（　　）。

5. 最小的四位数是（　　），排在它前面的一个数是（　　）。

6. 根据数的规律接着写三个数。

330、320、310、（　　）、（　　）、（　　）。

5080、5090、（　　）、（　　）、（　　）。

919、828、737、（　　）、（　　）、（　　）。

7. 在（　　）里填上合适的单位。

小华跑100米用了20（　　）。　小红吃饭大约用15（　　）。

夏天午睡大约用1（　　）。　一块橡皮大约厚15（　　）。

课桌高大约是7（　　）。　小明身高130（　　）。

8. 在○里填上“>”“<”或“=”。

5毫米○3厘米　　40分米○4米　　60分○6时

9. 把下面各数按从大到小的顺序排列是（　　）

998　1010　1001　1100

10. 一台电脑5018元，大约是（　　）元。

二、选择。（将正确答案的序号填在括号里。每题1分，共9分）

1. ☆÷8=□……△，△一定不是（　　）。

①6　②7　③8

2. 用5、0、6三张卡片摆三位数，能摆成（　　）个不同的三位数。

①2　②4　③6

3. 每个皮球8元，用50元钱买7个皮球，还差（　　）元。

①5　②6　③7

4. 一辆平板车要运37箱货物，每次运8箱，至少要运（　　）才能全部运完。

①4次　②5次　③6次

5. 饲养场有白兔206只，灰兔比白兔多得多，灰兔可能有（　　）。

①550只　②210只　③190只

6. 钟面上秒针从一个数走到下一个数，经过的时间是（　　）。

①1秒　②5秒　③1分

7. 68□5>6841，□里最小填（　　）。

①3　②4　③5

8. 小芳家在学校的西南面，学校在小芳家的（　　）面。

①东南　②西北　③东北

9. 右图中一共有（　　）个直角。



①2　②4　③3

三、计算。（共24分）

1. 直接写出得数。（每题0.5分，共10分）

500+2=	66+28=	80−26=	1000−400=
39+53=	800+900=	1600−900=	6030−30=
30+400=	65−23=	48÷6=	91−34=
56÷8=	36+24=	55+37=	800+7000=
60+70=	83−54=	670−600=	56−32=

关注微信公众号“教辅资料站”获取更多学习资料

姓名　学号　班级　学校
重点提示：请不要在密封线内答题哦！

2. 用竖式计算，带☆的要验算。（要验算的每题3分，其余每题2分，共14分）

☆657 + 468 =　　☆672 − 254 =　　17 ÷ 2 =

48 ÷ 5 =　　386 + 531 − 429 =　　727 − 529 + 267 =

四、操作题。（共14分）

1. 画一条长35毫米的线段。（2分）

2. 写出钟面上表示的时间，再看看时针和分针组成的是什么角，填在（　　）里。（8分）



（　　）　（　　）　（　　）　（　　）

3. 认方向。（4分）

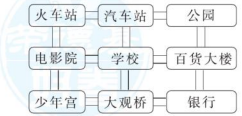

电影院在学校的（　　）面，
在汽车站的（　　）面。
大观桥在电影院的（　　）面，
银行的（　　）面是学校。

五、解决实际问题。（共20分）

1. 兰兰有5元钱，最多可以买几支这样的铅笔？（4分）


6角

2. 二年级一班有男生28人，女生22人。芳芳记录了这个班级报名参加学校运动会的人数，结果如下，有多少人没有报名参加？（4分）

报名的	正正正正丅	（　　）人

3. 修一条长800米的路，第一天修了205米，第二天修了96米，再修多少米才能修完？（4分）

4.


509元


裤子比上衣便宜267元


鞋子比裤子贵59元

（1）一条裤子多少元？一双鞋子多少元？（4分）

（2）爸爸买这三样，带1000元够吗？（4分）

附加题：（10分）



关注微信公众号“教辅资料站”获取更多学习资料

期末复习冲刺卷

江苏省某名校期末测试卷

时间：60分钟　满分：100分

题号	一	二	三	四	五	六	总分
得分							

一、直接写出得数。（每题1分，共8分）

54 + 23 =　　64 − 42 =　　37 + 23 =　　160 − 90 =

38 + 46 =　　71 − 25 =　　85 − 77 =　　500 + 700 =

二、用竖式计算，带☆的要验算。（要验算的每题3分，其余每题2分，共8分）

☆56 + 374 =　　☆627 − 264 =　　50 ÷ 7 =

三、填空。（第4题2分，其余每空1分，共24分）

1. 一个数由5个百和3个一组成，这个数是（　　），它后面的一个数是（　　），前面的一个数是（　　）。

2. 3298与3829这两个数，（　　）比较接近3000，（　　）比较接近4000。

3. 539 = □ + □ + □　　3026 = □ + □ + □

4. 圈一圈，填一填。



21 ÷ 6 = □……□

5. 写出钟面上表示的时间。



____时



____时____分



大约____时

6. 在（　　）里填上合适的数。

472 + （　　） = 645　　（　　） − 216 = 358

7. 下图是东山少年宫平面图。

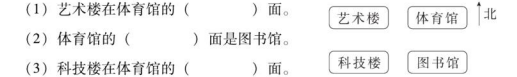

（1）艺术楼在体育馆的（　　）面。

（2）体育馆的（　　）面是图书馆。

（3）科技楼在体育馆的（　　）面。

8. 下面的线段各是多少毫米？看图填一填。



（　　）毫米



（　　）毫米

四、选择正确的答案，在□里画“√”。（每题2分，共20分）

1. 29 ÷ 7的商和余数各是多少？

商3余8 □　　商4余1 □　　商3余1 □

2. 珊珊读完贺知章的《咏柳》这首古诗，大约要用多长时间？

30时 □　　30分 □　　30秒 □

3. 哪个算盘的百位上表示8个百？

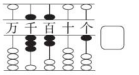

□

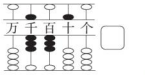

□

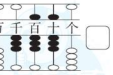

□

4. 2407　472　4072　2047　4702

把上面的五个数从小到大排列，排在正中间的那个数是多少？

2047 □　　2407 □　　4072 □

5. 哪道算式与450 − 386的得数相等？

550 − 386 □　　450 − 286 □　　550 − 486 □

6. 哪个角最大？


□


□


□

关注微信公众号“教辅资料站”获取更多学习资料

重点提示：请不要在密封线内答题哦！

姓名　学号　班级　学校

7. 叮叮家在学校的西北方向，学校在叮叮家的哪个方向？

东南 ☐　　东北 ☐　　西南 ☐

8. 赵阿姨养了两扁蚕，第一扁有 386 条，第二扁有 418 条。这两扁蚕大约一共有多少条？

700 条 ☐　　800 条 ☐　　900 条 ☐

9. 王爷爷沿一条笔直的道路散步，他先往前走了 650 步，又往回走了 50 步，接着调过头来往前走了 200 步。这时，他离起点的位置有多少步？

900 步 ☐　　850 步 ☐　　800 步 ☐

10. 大林调查了 3 名同学本学期读课外书的情况，结果如下（一个“√”表示 1 本）：

张星	√√√√√√√
李力	√√√√√√√√√√
马冬	√√√√√√√√

哪名同学本学期读课外书的本数最多？

张星 ☐　　李力 ☐　　马冬 ☐

五、量一量，画一画。（共 5 分）

1. 右边图形中有（　　）个直角，用三角尺上的直角比一比，并在直角上画上标记。（3 分）



2. 画一条 45 毫米长的线段。（2 分）

六、解决实际问题。（共 35 分）

1. 今年植树节期间，三年级植树 267 棵，四年级植树 315 棵。

（1）三、四年级一共植树多少棵？（5 分）

（2）四年级比三年级多植树多少棵？（5 分）

2. 玲玲家养了 8 只母鸡，这些母鸡每天可以下 6 个鸡蛋。玲玲准备攒 50 个鸡蛋送给奶奶，攒这些鸡蛋至少需要多少天？（7 分）

3. 如下图，小宁家到小芳家有 340 米，小芳家到小红家有 850 米，小红家到小力家有 270 米。小宁家到小力家有多少米？（8 分）



4.



上面的人可以怎样分类？先自己确定标准，再分一分。（10 分）

按_____分：　　按_____分：

关注微信公众号“教辅资料站”获取更多学习资料

荣德基 好卷 二年级 数学 下 SJ版

期末复习冲刺卷

山西省某名校期末测试卷

时间：60分钟　满分：100分

题号	一	二	三	四	五	总分
得分						

一、计算。（共 26 分）

1. 直接写出得数。（每题 1 分，共 16 分）

870 − 70 =	33 + 58 =	46 + 43 =	600 + 700 =
65 − 38 =	89 − 45 =	73 − 19 =	27 ÷ 8 =
20 + 800 =	650 − 600 =	37 + 24 =	66 − 47 =
47 + 37 =	90 − 57 =	120 − 70 =	1000 − 400 =

2. 用竖式计算，带☆的要验算。（要验算的每题 3 分，其余每题 2 分，共 10 分）

43 ÷ 6 =　　☆483 + 276 =　　600 − 390 =　　☆403 − 275 =

二、填空。（第 7 题 5 分，其余每空 1 分，共 28 分）

1. □ ÷ ○ = □……5，○最小应是（　　），△ ÷ 7 = 7……☆，☆最大是（　　），这时△是（　　）。
2. 10 个（　　）是一万；620 里面有（　　）个十；由 5 个千和 3 个十组成的数是（　　），读作（　　）。
3. 时针从 12 走到 3，经过的时间是（　　）；秒针从 4 走到 7，经过的时间是（　　）；时针在 8 和 9 之间，分针指着 7，这时是（　　）时（　　）分。
4. 每个盒子最多装 4 个球，26 个球要（　　）个盒子才能全部装进去。
5. 铅笔芯



直尺长

（1）这把直尺的长大约是 1（　　），厚大约是 1（　　）。

（2）直尺量的这根铅笔芯长（　　）毫米。

6. 在 9、0、4、8 中选出三个不同的数字组成不同的三位数，其中最大的数是（　　）；最小的数是（　　），最接近 500 的数是（　　），最接近 800 的数是（　　）。

7. （1）在右图中，你能找到（　　）个角，其中锐角有（　　）个，直角有（　　）个，钝角有（　　）个。



（2）请你在右图的直角上标上直角符号。

8. 下面是东山小学交通小队某天下午 4：00 至 6：00 在校门口统计的机动车辆来往情况。

大客车	小汽车	面包车	卡车	摩托车
正下	正正正正正	正正下	正	正丁

（1）（　　）最多，（　　）最少，它们相差（　　）辆。

（2）把表格填写完整。

下午 4：00 ~ 5：00	下午 5：00 ~ 6：00
共 27 辆	共（　　）辆

三、选择。（在正确答案的下面画“√”。每题 2 分，共 10 分）

1. 小猫、小兔和小青蛙比赛跳远，小猫跳了 95 厘米，小兔跳了 1 米，小青蛙跳了 5 分米，获得第一名的是谁？

小猫	小兔	小青蛙

2. 在算盘上拨 5 个珠子，可以拨出最大的四位数是多少？

5000	9000	5400

3. 白兔有 248 只，灰兔比白兔多得多，黑兔比白兔多一些，谁最多？

白兔	灰兔	黑兔

重点提示：请不要在密封线内答题哦！

关注微信公众号“教辅资料站”获取更多学习资料

4. 用放大镜观察一个角，这个角会怎样变化？

变大	不变	变小

5. 小明从家向西北方向走到学校，他的家在学校的哪个方向？

西北	西南	东北	东南

四、画一画。（共 11 分）

1. 画一条比 7 厘米短 15 毫米的线段。（2 分）

2. 按照给定的时间在钟面上画上时针和分针，并辨别所形成的是什么角。（9 分）

6:55 （　　）　3:05 （　　）　9:00 （　　）

五、解决实际问题。（共 25 分）

1. 一、二、三年级同学们去剧场看表演，剧场有 700 个座位。



（1）三个年级共有多少人到剧场？（5 分）

（2）如果再来 50 人，剧场还够坐吗？（5 分）

2. 图书室原来有 58 本《科学故事》。（5 分）



3. 体育场到公园一共 960 米。学校到少年宫有多少米？（5 分）

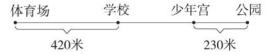

4. 这盒扣子可以钉多少件衣服？还剩多少个？（5 分）



关注微信公众号“教辅资料站”获取更多学习资料

第一单元跟踪检测卷

有余数的除法

一、1.（1）2　3　2　3

（2）6　1　6　1

2. 3　1

3. 4　【点拨】在有余数的除法算式中，余数要比除数小。

4. 5　4

5. 2　【点拨】38 ÷ 8 = 4（颗）……6（颗）

8 − 6 = 2（颗）

二、1. ×　2. ×　3. ×　4. ×　5. √

三、1. ①　2. ②　3. ①

4. ③　【点拨】6 × 7 + 3 = 45（个）

5. ②　【点拨】27 ÷ 8 = 3（条）……3（个），3 条船坐不下，还剩 3 个同学，所以要租 3 + 1 = 4（条）船。

四、1. 12　8　6　8　13　5　4　1　18　41　45　6　24　6　15

2. 19 ÷ 6 = 3……1　　71 ÷ 9 = 7……8

$$6\overline{)19}\ \begin{matrix}3\\18\\\hline 1\end{matrix}\qquad 9\overline{)71}\ \begin{matrix}7\\63\\\hline 8\end{matrix}$$

37 ÷ 6 = 6……1

$$6\overline{)37}\ \begin{matrix}6\\36\\\hline 1\end{matrix}$$

五、

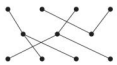

六、1. 14 ÷ 6 = 2（本）……2（本）

答：平均每个小朋友分得 2 本，还剩 2 本。

2. 40 ÷ 7 = 5（天）……5（袋）

答：可以吃 5 天，还剩 5 袋。

40 ÷ 6 = 6（天）……4（袋）

答：可以吃 6 天，还剩 4 袋。

3. 53 ÷ 6 = 8（张）……5（人）

8 + 1 = 9（张）

答：至少需要 9 张这样的桌子。

【点拨】如果 8 张桌子的话会剩下 5 人，所以还要多准备一张桌子。

4. 75 ÷ 9 = 8（盆）……3（盆）

答：至少拿走 3 盆后，正好平均分给 9 个班。

【点拨】平均分给 9 个班，每个班分 8 盆，还剩 3 盆，把剩的 3 盆拿走正好平均分给 9 个班。

5.（1）25 ÷ 7 = 3（辆）……4（人）

答：可以坐满 3 辆，还剩 4 人。

（2）25 ÷ 4 = 6（辆）……1（人）

6 + 1 = 7（辆）

答：至少需要 7 辆车。

附加题：

$$7\overline{)30}\ \begin{matrix}4\\28\\\hline 2\end{matrix}\qquad 7\overline{)57}\ \begin{matrix}8\\516\\\hline 1\end{matrix}$$

第二、三单元跟踪检测卷

时、分、秒　认识方向

一、1　180　60　2

二、1. 6；30　7；55　2. 25　5

3. 10　4. 南　东　西

5.（1）120　2　（2）1　5　（3）85

6. >　>　=

7.（1）时　（2）分　（3）秒

（4）分　（5）分　（6）分

三、1. ②　2. ③　3. ②　4. ②　5. ①

四、7 时 15 分　7：15　4 时 55 分　4：55

3 时 30 分　3：30　8 时 15 分　8：15

5 时 55 分　5：55　12 时零 5 分　12：05

五、



六、1. 西北　北　2. 北　南

3. 北　南　东南　东　西北

七、1.



2. 西北　东南　3. ⊗　○

八、1. 6 × 9 = 54（米）

答：从蜗牛家到湖边一共有 54 米。

【点拨】从图上可以看出时间从 12 时走到 6 时，经过了 6 小时。

2. 1 小时 = 60 分　60 − 50 = 10（分）

答：文艺汇演还有 10 分结束。

3. 半小时 = 30 分　30 ÷ 6 = 5（个）

答：半小时她能加工 5 个零件。

附加题：1. 200　【点拨】

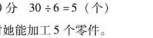

2. 24　【点拨】3 × 8 = 24（分）

3　【点拨】因为 8 个人是同时吃的，所以和 1 个人吃 1 块糖的时间是一样的。

第四单元跟踪检测卷

认识万以内的数

一、700　550　1000　300　4000　300　700　2800　1000　440　400　10000

二、1. 四　二千八百零二　千　2　8　2

2. 8463　千　十　3. 200　10　8　2

4. 799　1000　5. 4598　4600

6. 2686 元　2560 元　2403 元　1999 元　789 元

7. 5600　6500　5060　6050　5006　6005　5006

8. >　<　<　<

9. 6　5　5

10. 600　5000　1000　9000

三、408　8500　8005　8050

四、1. 9800　9700　9500

2. 2910　2940　3. 450　500

4. 598　568　5. 377　380　383

五、1. ③　2. ②　3. ②　4. ②

六、1. 4000 + 700 = 4700（本）

答：《开心乐园》进了 4700 本。

2. 2300 + 2000 − 3000 = 1300（人）

答：没有参加体检的有 1300 人。

3.（1）童话书　4000 本　科技书　2000 本　故事书　3000 本

（2）4000 − 2000 = 2000（本）

答：最多的图书比最少的图书大约多 2000 本。

（3）科技书和故事书大约一共有几千本？

2000 + 3000 = 5000（本）

答：科技书和故事书大约一共有 5000 本。

【点拨】（3）答案不唯一。

4.（1）1200 + 1200 = 2400（米）

答：他一天来回要走 2400 米。

（2）1200 + 1000 = 2200（米）

答：要走 2200 米。

附加题：最大是 9960，最小是 1599。

【点拨】要使四位数最大，那么最高位越大越好，要使四位数最小，千位是 1 保证有千位，从个位起，数字越大越好。

期中检测卷

一、1. 400　260　3000　500　200　1000　1000　2600　200　700　300　9000

2. 58 ÷ 6 = 9……4　　35 ÷ 4 = 8……3

$$6\overline{)58}\ \begin{matrix}9\\54\\\hline 4\end{matrix}\qquad 4\overline{)35}\ \begin{matrix}8\\32\\\hline 3\end{matrix}$$

关注微信公众号“教辅资料站”获取更多学习资料

$43 \div 7 = 6 \cdots\cdots 1$　　$63 \div 9 = 7$

$7\overline{)43}$ 商 6，余 42，余 1　　$9\overline{)63}$ 商 7，余 63，余 0

二、1. 

3　2

2. 5　30　3. 6085　一千

4. 7　8　5. 3　4　5　9

6. （1）分　（2）时　（3）秒　（4）时

7. 北　东　西

8. 199　【点拨】最大的两位数是99，最小的三位数是100。

9. 404　744　10. 180　120　1　1

11. （1）9000　9100　（2）7000　6990

（3）1710　1711

12. 4　19

三、1. ①　2. ③　3. ②　4. ①

四、1. （1）东　东北

（2）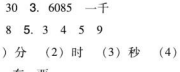

2. 5：40　3：55



五、1. $300 + 200 = 500$（米）

答：走了500米。

2. 5元 = 50角

$50 \div 8 = 6$（块）……2（角）

$8 - 2 = 6$（角）

答：5元可以买6块这样的橡皮，再加6角可以多买一块橡皮。

3. $240 - 40 = 200$（人）

答：下午去了200人。

4. （1）$398 \approx 400$　$214 \approx 200$

$400 + 200 = 600$（元）

答：买一台微波炉和一台电风扇大约需要600元。

（2）$292 \approx 300$　$186 \approx 200$

$300 + 200 = 500$（元）

答：够。

附加题：这个三位数是646。

第五单元跟踪检测卷

分米和毫米

一、1. 米　2. 63　55　8　3. 50　10

4. 100　40　700　200　6　7000　1000　5

5. <　<　<　>　=　<

6. 小亮　小兰　小明　7. 70

二、1. 米　2. 毫米　3. 米　4. 厘米

5. 厘米　6. 毫米　7. 厘米　8. 米

三、1. ×　2. ×　3. ×　4. ×

四、1. ③　2. ③　3. ③　4. ②　5. ①

五、1. 

2. 

3. 3厘米 < 310毫米 < 50厘米 < 4米

六、1. $48 \div 8 = 6$（米）　6米 = 60分米

答：每段长6米，合60分米。

2. $85 - 20 = 65$（米）

答：小鸭每分钟跑65米。

3. $7 \times 4 = 28$（厘米）

答：这根绳子一共长28厘米。

【点拨】把一根绳子对折再对折可以得到4段同样长度的绳子。

4. （1）$6 \times 5 = 30$（厘米）

答：做这些铁圈一共用了30厘米铁丝。

（2）5分米 = 50厘米　$50 - 30 = 20$（厘米）

答：这根铁丝还剩20厘米。

5. $100 - 64 = 36$（米）　$36 \div 9 = 4$（天）

答：4天可修完。

附加题：$100 + 100 = 200$（毫米）

$200 + 60 = 260$（毫米）

260毫米 = 26厘米

答：这根小棒长26厘米。

第六单元跟踪检测卷

两、三位数的加法和减法

一、1. 140　500　1000　240　52　66　60　74

940　95　90　35　18　1200　82　800

2. $398 + 135 = 533$　　$168 + 240 = 408$

$\begin{array}{r} 398 \\ +\ 135 \\ \hline 533 \end{array}$ 验算：$\begin{array}{r} 135 \\ +\ 398 \\ \hline 533 \end{array}$　$\begin{array}{r} 168 \\ +\ 240 \\ \hline 408 \end{array}$

$503 + 298 - 178 = 623$　$516 - 274 = 242$

$\begin{array}{r} 503 \\ +\ 298 \\ \hline 801 \end{array}$　$\begin{array}{r} 801 \\ -\ 178 \\ \hline 623 \end{array}$　$\begin{array}{r} 516 \\ -\ 274 \\ \hline 242 \end{array}$ 验算：$\begin{array}{r} 242 \\ +\ 274 \\ \hline 516 \end{array}$

$708 - 324 = 384$　　$935 - 347 + 236 = 824$

$\begin{array}{r} 708 \\ -\ 324 \\ \hline 384 \end{array}$　$\begin{array}{r} 935 \\ -\ 347 \\ \hline 588 \end{array}$　$\begin{array}{r} 588 \\ +\ 236 \\ \hline 824 \end{array}$

二、1. 437　245　2. >　=　>　<　=　=

3. 400　800

三、407　673　532　599

四、1. ②　2. ①　3. ①　4. ②　5. ②

五、$\begin{array}{r} \square 9\ 2\ 5 \\ -\ 5\ 3\ \square 8 \\ \hline 3\ 8\ 7 \end{array}$　$\begin{array}{r} 2\ \square 3\ 6 \\ +\ \square 1\ 5\ 2 \\ \hline 3\ 8\ 8 \end{array}$

六、1. $268 + 375 = 643$（只）

$643 + 194 = 837$（只）

答：农场里养了837只羊。

2. （1）$178 + 194 = 372$（页）

答：杨澜两天一共看了372页。

（2）$372 + 148 = 520$（页）

答：这本书一共有520页。

3. （1）$198 + 205 = 403$（元）

$106 + 95 = 201$（元）

答：最多需要403元，最少需要201元。

（2）$400 - 198 = 202$（元）

答：还剩202元。

4. （1）李小芳：$823 - 637 = 186$（千瓦时）

张宁：$1045 - 922 = 123$（千瓦时）

吴天宇：$965 - 706 = 259$（千瓦时）

填表：186　123　259

（2）$259 - 123 = 136$（千瓦时）

答：吴天宇家和张宁家五月用电相差136千瓦时。

（3）$186 + 123 + 259 = 568$（千瓦时）

答：三户人家五月一共用电568千瓦时。

附加题：5　2　【点拨】$0 - 0 = 0$，但很明显0不可以，那就是需要退位，$10 - 5 = 5$，所以☆ = 5。$8 + 4 = 12$，需要进位，所以△ = 2。

第七、八单元跟踪检测卷

角的初步认识　数据的收集和整理（一）

一、1. 1　2　3　1

2. （√）（×）（√）

（×）（√）（×）

3. 5　5　6　3

4. 6　7　7　8　6　6

二、1. ×　【点拨】角的大小与所画边的长短无关，与两边张开的大小有关。

2. ×

3. ×　【点拨】也可以是钝角。

4. √　5. ×

三、2　4　1　2　5　1　2　4　3

四、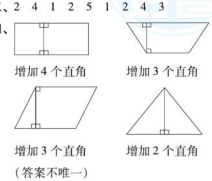

（答案不唯一）

关注微信公众号“教辅资料站”获取更多学习资料

五、1.（1）5　4　（2）3　3元　4　4元　2

2.（1）正　正下　正　正一

（2）4　8　4　6

（3）



六、7　9　16　4　3　4　5　16

（1）9　2　（2）△　☆　◇

附加题：



还剩4个角



还剩3个角

期末复习冲刺卷

模块过关卷（一）　数与代数　统计

一、1. 5　160　9　640　56　9　30　81

710　400　10000　98

2. 600　900　500

3. 1000－364＝636　　345＋238＝583

$$\begin{array}{r} 1000 \\ -\ 364 \\ \hline 636 \end{array}\quad \text{验算：}\ \begin{array}{r} 636 \\ +\ 364 \\ \hline 1000 \end{array}\qquad \begin{array}{r} 345 \\ +238 \\ \hline 583 \end{array}$$

23÷5＝4……3　　79÷9＝8……7

$$5\overline{)\,23}\ \begin{array}{l} 4 \\ 20 \\ 3 \end{array}\qquad 9\overline{)\,79}\ \begin{array}{l} 8 \\ 72 \\ 7 \end{array}$$

252＋89＝341　　450＋58＋243＝751

$$\begin{array}{r} 252 \\ +\ 89 \\ \hline 341 \end{array}\quad \text{验算：}\ \begin{array}{r} 89 \\ +252 \\ \hline 341 \end{array}\qquad \begin{array}{r} 450 \\ +\ 58 \\ \hline 508 \end{array}\qquad \begin{array}{r} 508 \\ +243 \\ \hline 751 \end{array}$$

二、1. 5　44　2. 30　15　6　3

3. 20÷6＝3（束）……2（个）

20÷3＝6（个）……2（个）

4. 5003　五千零三　1000　490　49

5. 3　千　3　百　6. 2900

7. ＜　＝　＞　＞　＝　＞

8. 8　4　6　6

9.（1）7000　7001　（2）190　180

（3）820　825

10. 1999　1

三、75　269　544

四、



五、1. 42＋3＝45（人）

45÷6＝7（顶）……3（人）

7＋1＝8（顶）

答：他们至少要准备8顶帐篷。

【点拨】每6人住一顶，列式可得7顶还余3人，那要全部住下，就要多1顶，所以至少需要8顶帐篷。

2.（1）785－128＝657（只）

答：饲养场养了657只鸭。

（2）657＋350＝1007（只）

答：饲养场养了1007只鹅。

3.（1）7　5　（2）2　4　4　2

（3）男生多。

（4）乒乓球项目的和篮球项目的人数一样多。排球项目的和足球项目的人数一样多。　【点拨】答案不唯一。

附加题：24－13＝11（千克）

11＋11＝22（千克）

答：原来桶中有油22千克。

【点拨】倒出一半油后变成13千克，和原来比少了11千克，那这11千克就是倒出来的一半的油，一半的油是11千克，那一共就应该是22千克。

期末复习冲刺卷

模块过关卷（二）　图形与几何

一、1. 1　3　2　4　5　2. 南　东　西

3. 北　东　相反

4. 600　4　80　70　30　300

5. 厘米　分米　厘米　米

6. ＜　＜　＞　＜　＝　＜　＞　＞　＞

二、①　③　②　④

三、2　1　1　3　3　2

四、1. 43　39　30

2.

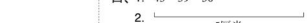

3.



【点拨】答案不唯一。

五、1. 北　2. 西南　西北　西

3. 东南　东南　4. 南　东北　东南

六、1. 880－158－365＝357（米）

答：从学校到少年宫一共有357米。

2. 5分米＝50厘米

20＋50＝70（厘米）

答：现在比原来短了70厘米。

3. 2分米＝20厘米

20－9＝11（厘米）

答：用了11厘米。

4.（1）西南　西

（2）3　从中间走

（3）600＋800＝1400（米）

答：一共要走1400米。

附加题：3　6

期末复习冲刺卷

仿真模拟卷（一）

一、170　70　320　7　9　200　4　640　540

45　400　40

二、487＋293＝780　　48÷6＝8

$$\begin{array}{r} 487 \\ +\ 293 \\ \hline 780 \end{array}\quad \text{验算：}\ \begin{array}{r} 293 \\ +\ 487 \\ \hline 780 \end{array}\qquad 6\overline{)\,48}\ \begin{array}{l} 8 \\ 48 \\ 0 \end{array}$$

297＋66＋343＝706　　246＋315＝561

$$\begin{array}{r} 297 \\ +\ 66 \\ \hline 363 \end{array}\qquad \begin{array}{r} 363 \\ +343 \\ \hline 706 \end{array}\qquad \begin{array}{r} 246 \\ +315 \\ \hline 561 \end{array}\quad \text{验算：}\ \begin{array}{r} 315 \\ +246 \\ \hline 561 \end{array}$$

700－566＝134　　636－276＝360

$$\begin{array}{r} 700 \\ -\ 566 \\ \hline 134 \end{array}\quad \text{验算：}\ \begin{array}{r} 566 \\ +\ 134 \\ \hline 700 \end{array}\qquad \begin{array}{r} 636 \\ -\ 276 \\ \hline 360 \end{array}$$

61÷9＝6……7　　335＋76＋199＝610

$$9\overline{)\,61}\ \begin{array}{l} 6 \\ 54 \\ 7 \end{array}\qquad \begin{array}{r} 335 \\ +\ 76 \\ \hline 411 \end{array}\qquad \begin{array}{r} 411 \\ +199 \\ \hline 610 \end{array}$$

三、1. 816　2. 708　3. 100　9

4. 299　300　5. 7　41

6. 5　7. ＜　＜　＝　＜　＞　＜

8. 4　3　2　9. 3　9　10. 50　200

11. 43　12. 100　10　13. 400　103

四、分　毫米　厘米　毫米　元　分

五、1. 减少4人 √

2. 420本 √

3. 小班多36颗 √

六、北

文文		
林林	小雨	晶晶
	丽丽	

七、1. 648－87＝561（页）

答：她已经看了561页。

2. 445－225＋102＝322（台）

答：现在商店里有电脑322台。

3. 154－26＝128（张）

128－47＝81（张）

答：亮亮收集了128张画片。奇奇收集了81张画片。

4. 4×8＝32（下）　32＋24＝56（下）

答：这些同学一共踢了56下。

5.（1）16　3　2　4　7　（2）16　7　9

附加题：

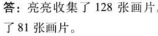

期末复习冲刺卷

仿真模拟卷（二）

一、1. 13÷4＝3（个）……1（个）

13÷3＝4（盘）……1（个）

2. 6　29　3. 3008　850

4. 6430　3046　4036　5. 1000　999

6. 300　290　280　5100　5110　5120　646　555　464

7. 秒　分　时　毫米　分米　厘米

8. ＜　＝　＜

关注微信公众号“教辅资料站”获取更多学习资料

9. 1100 > 1010 > 1001 > 998

10. 5000

二、1. ③ 2. ② 3. ② 4. ② 5. ①

6. ② 7. ② 8. ③ 9. ③

三、1. 502 94 54 600 92 1700 700

6000 430 42 8 57 7 60 92

7800 130 29 70 24

2. 657 + 468 = 1125

$\begin{array}{r} 657 \\ +\ 468 \\ \hline 1125 \end{array}$ 验算: $\begin{array}{r} 468 \\ +\ 657 \\ \hline 1125 \end{array}$

672 − 254 = 418

$\begin{array}{r} 672 \\ -\ 254 \\ \hline 418 \end{array}$ 验算: $\begin{array}{r} 418 \\ +\ 254 \\ \hline 672 \end{array}$

17 ÷ 2 = 8……1　　48 ÷ 5 = 9……3

$2\overline{)17}$ 商 8，余 1　　$5\overline{)48}$ 商 9，余 3

386 + 531 − 429 = 488

$\begin{array}{r} 386 \\ +\ 531 \\ \hline 917 \end{array}$ $\begin{array}{r} 917 \\ -\ 429 \\ \hline 488 \end{array}$

727 − 529 + 267 = 465

$\begin{array}{r} 727 \\ -\ 529 \\ \hline 198 \end{array}$ $\begin{array}{r} 198 \\ +\ 267 \\ \hline 465 \end{array}$

四、1. 35毫米

2. 1：15 锐角 2：55 钝角

9：00 直角 11：05 锐角

3. 西 西南 东南 西北

五、1. 5 元 = 50 角

50 ÷ 6 = 8（支）……2（角）

答： 最多可以买 8 支这样的铅笔。

2. 24

28 + 22 − 24 = 26（人）

答： 有 26 人没有报名参加。

3. 800 − 205 − 96 = 499（米）

答： 再修 499 米才能修完。

4. （1）509 − 267 = 242（元）

242 + 59 = 301（元）

答： 一条裤子 242 元，一双鞋子 301 元。

（2）509 + 242 + 301 = 1052（元）

1000 < 1052

答： 带 1000 元不够。

附加题： 36 − 8 = 28（岁）　50 − 28 = 22（岁）

答： 爸爸 50 岁时婷婷 22 岁。

期末复习冲刺卷

江苏省某名校期末测试卷

一、77 22 60 70 84 46 8 1200

二、56 + 374 = 430

$\begin{array}{r} 56 \\ +\ 374 \\ \hline 430 \end{array}$ 验算: $\begin{array}{r} 374 \\ +\ 56 \\ \hline 430 \end{array}$

627 − 264 = 363

$\begin{array}{r} 627 \\ -\ 264 \\ \hline 363 \end{array}$ 验算: $\begin{array}{r} 363 \\ +\ 264 \\ \hline 627 \end{array}$

50 ÷ 7 = 7……1

$7\overline{)50}$ 商 7，余 1

三、1. 503 504 502 2. 3298 3829

3. 500 30 9 3000 20 6

4. 

3 3

5. 3 7 45 4 6. 173 574

7.（1）西 （2）南 （3）西南

8. 24 18

四、1. 商 4 余 1 √

2. 30 秒 √

3.  √

4. 2407 √

5. 550 − 486 √

6.  √

7. 东南 √

8. 800 条 √

9. 800 步 √

10. 李力 √

五、1. 1 

2. 45毫米

六、1.（1）267 + 315 = 582（棵）

答： 三、四年级一共植树 582 棵。

（2）315 − 267 = 48（棵）

答： 四年级比三年级多植树 48 棵。

2. 50 ÷ 6 = 8（天）……2（个）

8 + 1 = 9（天）

答： 攒这些鸡蛋至少需要 9 天。

【点拨】8 天只能攒 48 个鸡蛋，不够 50 个，所以要多 1 天，9 天就够了。

3. 340 + 850 − 270 = 920（米）

答： 小宁家到小力家有 920 米。

【点拨】如下图，求出总长度，再减去小力家到小红家的距离。

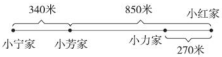

4. 按年龄分：

9 岁	4 人
8 岁	5 人

按性别分：

男生	7 人
女生	2 人

【点拨】分类标准不唯一。

期末复习冲刺卷

山西省某名校期末测试卷

一、1. 800 91 89 1300 27 44 54

3……3 820 50 61 19 84 33

50 600

2. 43 ÷ 6 = 7……1　　483 + 276 = 759

$6\overline{)43}$ 商 7，余 1

$\begin{array}{r} 483 \\ +\ 276 \\ \hline 759 \end{array}$ 验算: $\begin{array}{r} 276 \\ +\ 483 \\ \hline 759 \end{array}$

600 − 390 = 210　　403 − 275 = 128

$\begin{array}{r} 600 \\ -\ 390 \\ \hline 210 \end{array}$ 验算: $\begin{array}{r} 403 \\ -\ 275 \\ \hline 128 \end{array}$ $\begin{array}{r} 128 \\ +\ 275 \\ \hline 403 \end{array}$

二、1. 6 6 55

2. 1000 62 5030 五千零三十

3. 3 时 15 秒 8 35

4. 7

5.（1）分米 毫米 （2）50

6. 984 408 498 804

7.（1）9 4 2 3 （2） 

8.（1）小汽车 卡车 20

（2）31 【点拨】由统计表可知共有 58 辆车，减去下午 4：00 ~ 5：00 的车辆数，就是 5：00 ~ 6：00 的车辆数。

三、1.

小兔
√

2.

9000
√

3.

灰兔
√

4.

不变
√

5.

东南
√

四、1. 55毫米

2. 6:55  钝角　3:05  锐角　9:00  直角

五、1.（1）278 + 213 + 203 = 694（人）

答： 三个年级共有 694 人到剧场。

（2）694 + 50 = 744（人）

744 > 700

答： 剧场不够坐。

2. 58 − 18 − 24 = 16（本）

答： 图书室里还剩 16 本《科学故事》。

3. 960 − 420 − 230 = 310（米）

答： 学校到少年宫有 310 米。

4. 39 ÷ 4 = 9（件）……3（个）

答： 这盒扣子可以钉 9 件衣服，还剩 3 个。

关注微信公众号“教辅资料站”获取更多学习资料

好卷

小卷

- 周测培优卷（10套）
- 专项复习卷（5套）
- 满分压轴卷（2套）



二年级 数学

下（SJ版）

关注微信公众号“教辅资料站”获取更多学习资料



目录

周测培优卷

有余数的除法 …… 1

时、分、秒 …… 3

认识方向 …… 5

万以内数的认识及组成 …… 7

万以内数的大小比较及简单的近似数 …… 9

认识分米和毫米、简单的单位换算 …… 11

两位数加减两位数的计算及解决实际问题 …… 13

三位数加减两、三位数的笔算及解决实际问题 …… 15

直角、锐角和钝角 …… 17

简单的数据的收集和整理 …… 19

专项复习卷

认识万以内的数 …… 21

有余数的除法和两、三位数的加减法 …… 23

时、分、秒与分米和毫米 …… 25

角的初步认识和认识方向 …… 27

两步计算的加减法的实际问题与数据的收集和整理 …… 29

满分压轴卷

常考易错突破卷(一) …… 31

常考易错突破卷(二) …… 33

参考答案及点拨 …… 35

关注微信公众号“教辅资料站”获取更多学习资料

周测培优卷 1

有余数的除法

班级_____ 姓名_____ 得分_____ 时间：40分钟 满分：100分

一、填空。（每空 2 分，共 40 分）

1. 

（1）15 个苹果，每 4 个一份，分成了（　　）份，还剩（　　）个，算式是（　　）。

（2）15 个苹果平均放在 7 个盘子里，每个盘子里放（　　）个，还剩（　　）个，算式是（　　）。

2. 43 里面最多有（　　）个 7。

3. 在□里填上合适的数。

27 ÷ □ = 5……2　　40 ÷ 6 = □……□

4. 一个数除以 9 有余数，余数最大是（　　），最小是（　　）。

5. ○□□△○□□△○□□△……第 22 个图形是（　　）。

6. 有 26 个橘子，如果每袋装 4 个，可以装（　　）袋，还剩（　　）个；如果每袋装 5 个，可以装（　　）袋，还剩（　　）个；如果每袋装 6 个，可以装（　　）袋，还剩（　　）个。

7. 35 个小朋友坐船，每条船坐 8 人，至少要（　　）条船。

二、用竖式计算。（每题 4 分，共 16 分）

74 ÷ 9 =　　18 ÷ 4 =　　60 ÷ 8 =　　34 ÷ 5 =

关注微信公众号“教辅资料站”获取更多学习资料

三、判断下列竖式是否正确，错误的请改正过来。（每题 5 分，共 15 分）

$$\begin{array}{r} 4 \\ 3\overline{)17} \\ 12 \\ \hline 5 \end{array}$$

（　　）

$$\begin{array}{r} 6 \\ 2\overline{)13} \\ 12 \\ \hline 1 \end{array}$$

（　　）

$$\begin{array}{r} 5 \\ 3\overline{)18} \\ 15 \\ \hline 3 \end{array}$$

（　　）

四、解决实际问题。（共 29 分）

1. 姐姐买来一些花，每 6 枝插入一个花瓶里，可以插满几个花瓶？还剩几枝？（7 分）



2. 小明买来 13 个苹果，平均分给奶奶、爸爸、妈妈，余下的给自己，小明还有多少个苹果？（7 分）

3. 三月份有 31 天，这个月有几个星期？余几天？（7 分）

4. 23 名同学乘船，每条船上可坐 4 名同学，至少需要几条船？（8 分）



关注微信公众号“教辅资料站”获取更多学习资料

时、分、秒

班级_____ 姓名_____ 得分_____ 时间：40分钟 满分：100分

一、填空。（每空 2 分，共 42 分）

1. 时针从一个数走到相邻的下一个数的时间是（　　），分针走一小格的时间是（　　），分针走一大格的时间是（　　）。

2. 时针走一大格，分针正好走（　　）小格，也就是（　　）分，所以说 1 时 = （　　）分。

3. 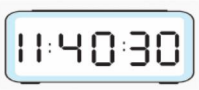

图中电子表上的时间读作（　　），离 11 时 41 分还有（　　）秒。

4. 在◯里填上“ > ”“ < ”或“ = ”。

4 分◯4 秒　　100 秒◯1 分　　1 时◯60 分

5. 时针从“2”走到“5”走了（　　）时。分针从“2”走到“5”走了（　　）分。

6. 分针指着 10，时针快指向 5，这时是（　　）时（　　）分。

7. 2：10 再过 30 分后是（　　）时（　　）分。

8. 现在时间是上午 7 时 45 分，再过（　　）分是 8 时整。

9. 现在时间是 1：57，再过 3 分是（　　）。

10. 下午上课的时间是 2：30，明明从家到学校要走 20 分钟，明明最晚要（　　）时（　　）分从家里出发。

二、填上合适的时间单位。（每空 3 分，共 9 分）



王叔叔每天的上班时间是 8（　　）。



看一场篮球赛的时间大约是 50（　　）。



小红跑 50 米大约需要 20（　　）。

关注微信公众号“教辅资料站”获取更多学习资料

三、选择。（将正确答案的序号填在括号里。每题 3 分，共 9 分）

1. 秒针走一圈经过的时间是（　　）。

① 1 秒　　② 1 分　　③ 1 时

2. 分针指向 8，时针指在 7 和 8 之间，此时的时间是（　　）。

① 8：40　　② 7：40　　③ 9：40

3. 小丽、小军和小华进行 50 米赛跑，小丽用了 8 秒，小军用了 12 秒，小华用了 10 秒，（　　）跑得最快。

① 小丽　　② 小军　　③ 小华

四、写出钟面上所指的时间。（每题 3 分，共 12 分）


（　　）


（　　）


（　　）


（　　）

五、画出钟面上缺少的时针和分针。（每题 2 分，共 10 分）


4 时 5 分


8 时 20 分


1 时半


7 时


11 时 55 分

六、解决问题。（18 分）

4 名同学参加 50 米游泳比赛，成绩如下表：

姓名	明明	红红	兰兰	青青
成绩	93 秒	97 秒	100 秒	90 秒

请你把前三名的名字写在颁奖台上。

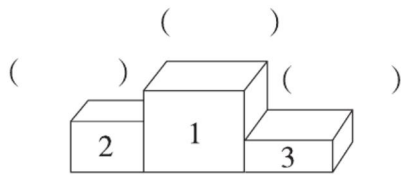

关注微信公众号“教辅资料站”获取更多学习资料

认识方向

班级_____ 姓名_____ 得分_____ 时间：40分钟 满分：100分

一、填空。（每空 2 分，共 28 分）

1. 我们认识的方向中，南和（　　）相对，（　　）和东相对。
2. 地图通常按上（　　）、下（　　）、左（　　）、右（　　）绘制。
3. 下午放学回家时，小明面向太阳，他后面是（　　）面，右面是（　　）面。
4. 小明早上跑步锻炼身体，他从家出发，先向（　　）面跑到人民桥，再向（　　）面跑到文化宫，最后向（　　）面跑回家。

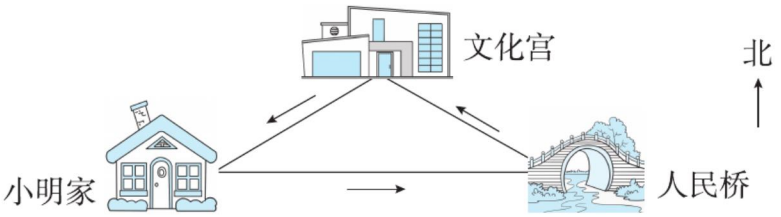

5. 红红把手表放在桌面上，“12”正对着北面，正对着南面的是“（　　）”，正对着西面的是“（　　）”，正对着东面的是“（　　）”。

二、判断。（对的在括号里打“√”，错的打“×”。每题 2 分，共 6 分）

1. 兰兰迎着夕阳回家，她的左面是北。（　　）
2. 小刚站在小亮的东面，那么小亮就在小刚的西面。（　　）
3. 小冬从家去学校的路线：从家出发，向东南面走到书店，再向东北面走到超市，再向南面走到学校。（　　）

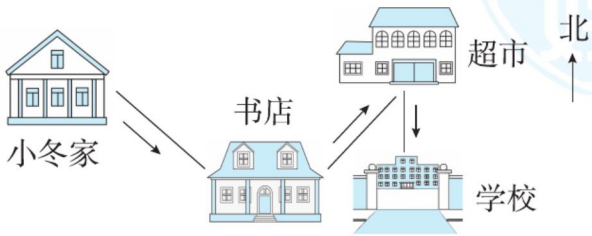

关注微信公众号“教辅资料站”获取更多学习资料

三、看图填一填。(18 分)

小动物的家分别在哪里？(请写在[　　]里)

小熊家的北面是小羊家，南面是小狗家。

小熊家的东面是小猴家，西面是小松鼠家。

小熊家的东北面是小猫家，西南面是小兔家。

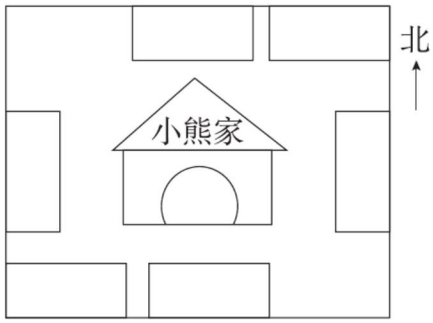

四、下面是动物园平面示意图的一部分。(每空 4 分，共 24 分)

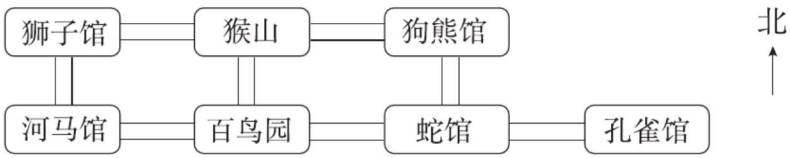

1. 蛇馆在孔雀馆的(　　)面，百鸟园在猴山的(　　)面。
2. (　　)在百鸟园的西面，猴山的西面是(　　)。
3. 从百鸟园到狗熊馆，可先向(　　)走，再向(　　)走。

五、看图填空。(每空 3 分，共 24 分)

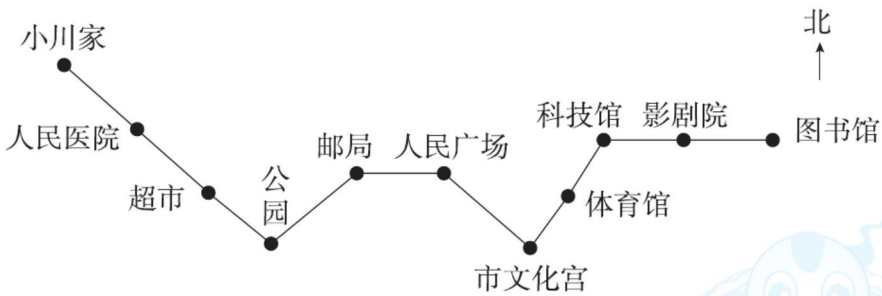

1. 从小川家到公园是向(　　)走，从图书馆到影剧院是向(　　)走，从科技馆到影剧院是向(　　)走，从邮局到公园是向(　　)走。
2. 从人民广场到(　　)是向东南走，从人民医院到(　　)是向西北走，从人民广场到(　　)是向西走，从公园到(　　)是向东北走。

关注微信公众号“教辅资料站”获取更多学习资料

周测培优卷 4
万以内数的认识及组成

班级_____ 姓名_____ 得分_____ 时间：40分钟 满分：100分

一、口算。（每题 2 分，共 12 分）

8000 + 900 =　　500 + 4200 =　　6000 + 3000 =

5400 + 3200 =　　4000 − 3000 =　　3900 − 400 =

二、填空。（每空 1 分，共 43 分）

1. 写出下面各数的组成，再读一读。

(1) 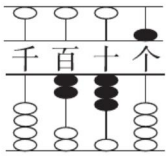

2 个（　　）、（　　）个十和（　　）个一组成。

读作：（　　）

(2) 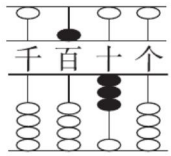

（　　）个百和（　　）个（　　）组成。

读作：（　　）

(3) 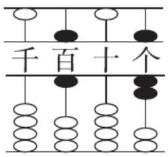

（　　）个（　　）和（　　）个（　　）组成。

读作：（　　）

(4) 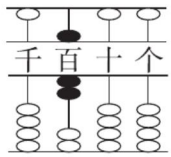

（　　）个（　　）组成。

读作：（　　）

2. 一个数从右边起，百位是第（　　）位，第五位是（　　）位。

3. 3465 的最高位是（　　）位，是（　　）位数，“6”在（　　）位上，表示（　　），“3”在（　　）位上，表示（　　）。

4. 100 里面有（　　）个十，1000 里面有（　　）个百，10 个一是（　　）。

5. 2 个千、5 个十组成的数是（　　），读作（　　）。

6. 80 里面有（　　）个十，190 里面有（　　）个十。

关注微信公众号“教辅资料站”获取更多学习资料

7. 最小的四位数是（　　），最小的三位数是（　　），它们的和是（　　）。

8. 由（　　）个千、（　　）个百、（　　）个一组成3207。

9. 比9999多1的数是（　　），比1000少1的数是（　　）。

10. 找规律，填一填。

45000，45100，（　　），45300，（　　）。

11. 由2个0和2个7组成的最大四位数是（　　），最小四位数是（　　）。

三、判断。（对的在括号里打“√”，错的打“×”。每题3分，共21分）

1. 一个数的最高位是百位，这个数是四位数。（　　）

2. 三位数一定比四位数小。（　　）

3. 七千零九写作：7009。（　　）

4. 最大的四位数比最小的五位数大。（　　）

5. 用5、6、0、3组成最小的四位数是6305。（　　）

6. 最高位是万位的数是五位数，一个四位数最高位是千位。（　　）

7. 只读一个零的数是末尾有0的数。（　　）

四、读或写出横线上的数。（每题4分，共12分）

1. 万老师带着270名学生参加夏令营活动。读作：（　　）

2. 妈妈用六千八百元买了一台洗衣机。写作：（　　）

3. 珠穆朗玛峰的高度大约是8844米。读作：（　　）

五、按要求，在算盘或计数器上画珠表示下面的数。（共12分）

1. 拨2颗算珠能表示的最小四位数。（6分）

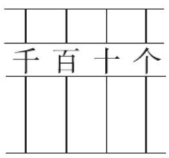

2. 比最大的三位数多2的数。（6分）

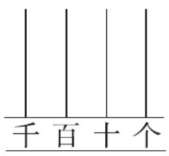

关注微信公众号“教辅资料站”获取更多学习资料

周测培优卷 5
万以内数的大小比较及简单的近似数

班级_____ 姓名_____ 得分_____ 时间：40分钟 满分：100分

一、填空。（每空 3 分，共 30 分）

1. 小华买了一辆自行车花了 209 元，约是（　　）元。

2. 果园有 589 棵桃树，大约是（　　）棵；有 715 棵苹果树，大约是（　　）棵。

3. 工厂生产 A 零件 1890 个，B 零件大约 2000 个，其中近似数是（　　），准确数是（　　）。

4. 从甲地到乙地的飞机票是 917 元，大约是（　　）元。

5. 

6. 用 3、0、9、4 摆一个最接近 3000 的数是（　　），摆一个最接近 4000 的数是（　　）。

二、判断。（对的在括号里打“√”，错的打“×”。每题 5 分，共 15 分）

1. 545 的近似数是 600。（　　）

2. 准确数是准确的，确定的；近似数是大概的，不是准确的，近似数一般是整十、整百、整千数。（　　）

3. “≈”左右两边的数相等。（　　）

三、想一想，做一做。（共 55 分）

1. 在○里填上“＞”“＜”或“＝”。（每题 3 分，共 18 分）

658 ○ 685　　1354 ○ 3541

4876 ○ 4776　　2037 ○ 2073

5892 ○ 6000　　9075 ○ 9057

关注微信公众号“教辅资料站”获取更多学习资料

2. 括号里最大能填几？（每题 4 分，共 16 分）

3427 > 3（　　）27　　7000 >（　　）999

3946 > 39（　　）5　　8310 > 8（　　）52

3. 一台洗衣机 3490 元，一台空调的价格和一台洗衣机的价格差不多，一台空调可能是多少元？在合适的价格下面画“√”。（5 分）

6899 元	1302 元	3500 元	3002 元

4. 果园里有桃树、梨树、苹果树、杏树，数量如下表（单位：棵）：

果树种类	桃树	梨树	苹果树	杏树
果树棵数	3015	4016	3030	1060

（1）每种果树各接近几千棵？（5 分）

（2）哪两种果树棵数差不多？（5 分）

（3）哪种树的棵数比梨树少很多？（6 分）

关注微信公众号“教辅资料站”获取更多学习资料

周测培优卷 6
认识分米和毫米、简单的单位换算

班级_____ 姓名_____ 得分_____ 时间：40分钟 满分：100分

一、填空。（第 4 题 14 分，其余每空 2 分，共 58 分）

1. 常用的长度单位有（　　）、（　　）、（　　）、（　　）。

2. 测量大楼的高度，一般用（　　）作单位。测量降雨量，一般用（　　）作单位。

3. 在括号里填上合适的单位名称。

一支铅笔长约 2（　　）。　　数学课本厚约 6（　　）。

一栋楼高约 25（　　）。　　一根筷子长约 2（　　）。

课桌长约 6（　　）。　　小明身高 125（　　）。

一棵大树高 5（　　）。　　课桌高 7（　　）。

蜡笔长 6（　　）。　　小蚂蚁身长 5（　　）。

4. 单位换算。

1 厘米 =（　　）毫米　　1 米 =（　　）分米

4 米 =（　　）分米　　2000 毫米 =（　　）米

20 毫米 =（　　）厘米　　4 厘米 =（　　）毫米

50 厘米 =（　　）分米　　7 分米 =（　　）厘米

1 分米 =（　　）厘米　　9 分米 =（　　）厘米

500 厘米 =（　　）米　　700 毫米 =（　　）分米

30 毫米 =（　　）厘米　　7 厘米 =（　　）毫米

5. 在◯里填上“ > ”“ < ”或“ = ”。

14 厘米◯20 毫米　　100 毫米◯10 厘米　　8 毫米◯7 厘米

1 米◯8 分米　　2 米◯2100 毫米　　6 厘米◯60 毫米

二、判断。（对的在括号里打“√”，错的打“×”。每题 2 分，共 8 分）

1. 一张床长约 22 分米。（　　）

2. 明明的身高为 150 厘米，红红的身高为 15 分米，两人一样高。（　　）

3. 测量一段路的长度，可以用米作单位。（　　）

4. 飞机每小时飞行 800 米。（　　）

关注微信公众号“教辅资料站”获取更多学习资料

三、操作题。（共 14 分）

1. 画一条长 45 毫米的线段。（3 分）

2. 画一条比 3 厘米长 25 毫米的线段。（3 分）

3. 量一量，填一填。（8 分）

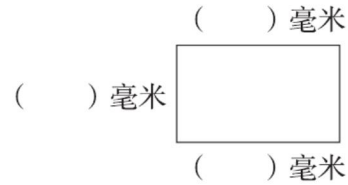

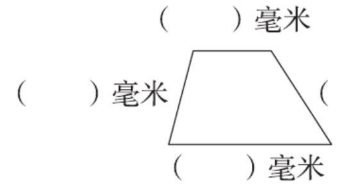

四、解决问题。（共 20 分）

1. 小军的身高是 1 米 45 厘米，小强的身高是 1 米 65 厘米。小强比小军高多少厘米？合多少分米？（5 分）

2. 一块花布长 6 米，做一套衣服用 9 分米，这块花布最多能做几套衣服？（5 分）

3. 一根绳子长 7 分米，用掉 45 毫米，还剩多少毫米？（5 分）

4. 一根木头长 40 分米，把它锯成相等的小段，锯 4 次后，平均每段长多少分米？（5 分）

关注微信公众号“教辅资料站”获取更多学习资料

周测培优卷 7
两位数加减两位数的计算及解决实际问题

班级_____ 姓名_____ 得分_____ 时间：40分钟 满分：100分

一、口算。（每题2分，共24分）

25 + 36 =	44 − 25 =	78 − 46 =	14 + 29 − 33 =
26 + 27 =	48 + 18 =	58 − 34 =	90 − 45 + 16 =
16 + 29 =	70 − 45 =	65 − 56 =	43 + 57 − 50 =

二、填空。（每空2分，共30分）

1. 比58大23的数是（　　）；41比19多（　　）。

2. 两个加数都是27，它们的和是（　　）。

3. 在○里填上“>”“<”或“=”。

23 + 49 ○ 32 + 49　　98 − 19 ○ 98 − 91　　23 + 49 ○ 21 + 42

4. 在得数比80大的算式后面的□里画“√”。

42 + 35 □	56 + 27 □	18 + 65 □
29 + 59 □	23 + 56 □	77 + 13 □

5. 58 −29→ □ +43→ □ −26→ □

三、填表。（16分）

	小丽	小玲	小芳	小强
已经看了	56页	（　　）页	23页	35页
还剩	（　　）页	55页	47页	（　　）页
一共有	74页	62页	（　　）页	82页

关注微信公众号“教辅资料站”获取更多学习资料

四、解决问题。（共 30 分）

1. 现在湖边有多少只船？（6 分）



2. 姐姐有 76 张邮票，送给弟弟 25 张，自己又搜集了 18 张，姐姐现在有多少张邮票？（6 分）

3. 一本故事书有 75 页，小丽第一天看了 32 页，第二天看了 27 页，还剩下多少页没有看？（6 分）

4. 一批零件有 90 个，李师傅第一天加工了 27 个，第二天加工了 36 个，还剩下多少个？（6 分）

5. 二年级一班的同学做手工娃娃，男生做了 42 个，女生做了 58 个，送给幼儿园 30 个，二年级一班的同学还剩下手工娃娃多少个？（6 分）

关注微信公众号“教辅资料站”获取更多学习资料

周测培优卷 8

三位数加减两、三位数的笔算及解决实际问题

班级_____ 姓名_____ 得分_____ 时间：40分钟 满分：100分

一、用竖式计算，带☆的要验算。（要验算的每题6分，其余每题5分，共32分）

546 + 272 =　　☆265 + 276 =　　486 + 127 + 237 =

657 − 375 =　　☆600 − 194 =　　670 − 383 + 456 =

二、填空。（每空2分，共22分）

1. 345比729少（　　）；265比199多（　　）。

2. 在◯里填上“>”“<”或“=”。

598 − 205 ◯ 485 − 299　　399 + 302 ◯ 509 + 299

489 − 202 ◯ 211 − 102　　603 − 245 ◯ 378 + 103

3. 妈妈买  和  共花了900元，其中上衣599元，裤子（　　）元。

4. 填表。

被减数	702	909		725
减数	295	327	374	
差			158	126

关注微信公众号“教辅资料站”获取更多学习资料

三、在正确的算式后面的□里画“√”。（每题 4 分，共 12 分）

1. 比 533 少 246 的数是多少？

533 + 246 □　　533 − 246 □

2. 比 435 多 169 的数是多少？

435 + 169 □　　435 − 169 □

3. 768 比 178 多多少？

768 − 178 □　　768 + 178 □

四、解决简单实际问题。（共 34 分）

1. 迎宾路小学有男生 461 人，女生 486 人，体育已经达标的有 856 人，还未达标的有多少人？（10 分）

2. 在庆祝“六一”儿童节的时候，儿童剧院的叔叔阿姨们为新洋实验小学的学生举办了三次演出，这一次轮到二年级和三年级的学生观看，二年级有 453 人，三年级有 471 人，剧院为学生准备了 950 个座位，够吗？（12 分）

3. 成华每天坚持练书法，每周总共要练 574 个字，这周他已经完成了 492 个字，还差多少个字就能完成这周的练习任务了？（12 分）

关注微信公众号“教辅资料站”获取更多学习资料

周测培优卷 9
直角、锐角和钝角

班级_____ 姓名_____ 得分_____ 时间：40分钟 满分：100分

一、填空。（每空 2 分，共 20 分）

1. 标出右图中角各部分的名称。

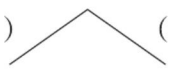

2. 一个角有（ ）个顶点，（ ）条边。

3. 要知道一个角是不是直角，可以用三角尺上的（ ）比一比。

4. 两条交叉的直线，最多会形成（ ）个直角。

5. 把一张长方形纸对折后展开，把折线画出来，这时长方形纸一共有（ ）个直角。

6. 

顺着箭头指引的方向去观察，发现角逐渐变（ ）了，说明角的两边张开的越大，角越（ ）。

二、判断。（对的在括号里打“√”，错的打“×”。每题 2 分，共 6 分）

1. 直角和锐角一定拼成钝角。（ ）

2. 数学书封面上的直角比三角尺上的直角大。（ ）

3. 每一个三角尺上都有两个锐角。（ ）

三、选择。（将正确答案的序号填在括号里。每题 3 分，共 9 分）

1. 钟面上 4 时整，分针和时针所组成的角是（ ）。

① 直角　② 锐角　③ 钝角

2. 一面国旗有（ ）个直角。

① 2　② 3　③ 4

3. 下图被纸遮住的角是（ ）。

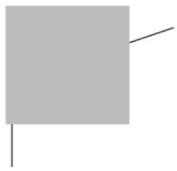

① 直角　② 锐角　③ 钝角

关注微信公众号“教辅资料站”获取更多学习资料

四、动动手，动动脑。（共 65 分）

1. 分一分。（16 分）

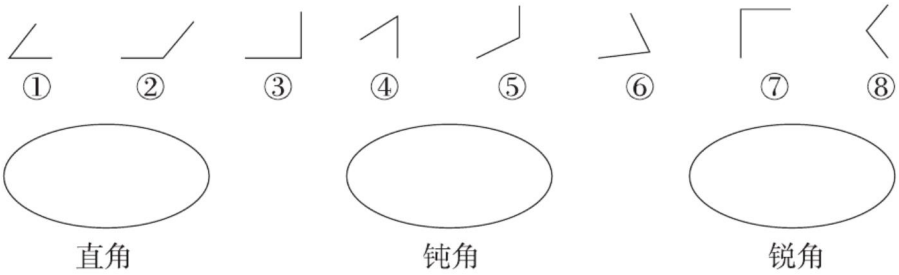

2. 数一数。

（1）按要求数一数。（12 分）



（　　）个角　（　　）个直角　（　　）个锐角　（　　）个钝角

（2）数出图形中的锐角、直角和钝角的个数。（12 分）

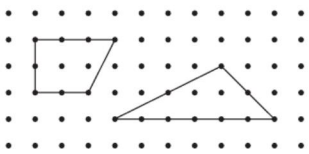

（　　）个锐角
（　　）个直角
（　　）个钝角

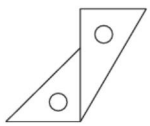

（　　）个锐角
（　　）个直角
（　　）个钝角

3. 画一画。

（1）以下面的线为边，画一个锐角和一个钝角。（16 分）



（2）在下面的圆中画两条线段，使所形成的图形有 2 个直角。（9 分）



关注微信公众号“教辅资料站”获取更多学习资料

周测培优卷 10
简单的数据的收集和整理

班级_____ 姓名_____ 得分_____ 时间：40分钟 满分：100分

一、王老师调查了二（1）班小朋友最爱吃的水果的情况。（21分）

						其他
正正	下	正	正	正	正	丁

请你根据上面的调查结果在下面的表格中填一填。

						其他
（　　）人	（　　）人	（　　）人	（　　）人	（　　）人	（　　）人	（　　）人

二、气象小组把6月份的天气作了如下记录。（共54分）

晴天：　雨天：　阴天：

1	2	3	4	5	6	7	8	9	10
									
11	12	13	14	15	16	17	18	19	20
									
21	22	23	24	25	26	27	28	29	30
									

1. 用画“正”字的方法记录天数，按不同的标准分类。（20分）

天气名称	晴天	雨天	阴天
天数			

天气名称	有雨	无雨
天数		

关注微信公众号“教辅资料站”获取更多学习资料

2. 请你涂色表示每种天气的天数。(1 个□表示 1 天)(9 分)







3. 这个月(　　)天最多,(　　)天最少。(6 分)

4. 这个月阴天有(　　)天。(3 分)

5. 这个月晴天比雨天多多少天?(8 分)

6. 这个月阴天比雨天多多少天?(8 分)

三、下面是张老师调查本班同学最喜欢的业余活动情况统计表。(共 25 分)

活动项目	看书	看电视	旅游	体育运动	其他
人数	14	10	8	2	4

1. 最喜欢(　　)的人数最多,最喜欢(　　)的人数最少。(6 分)

2. 最喜欢看书的人比最喜欢旅游的人多(　　)人。(3 分)

3. 最喜欢看电视的人比最喜欢体育运动的人多(　　)人。(3 分)

4. 这个班一共有多少人?(13 分)

关注微信公众号"教辅资料站"获取更多学习资料

专项复习卷1 认识万以内的数

班级_____ 姓名_____ 得分_____ 时间：40分钟 满分：100分

一、填空。（每空2分，共50分）

1. 100里面有（　　）个十，10个一百是（　　），10000里面有（　　）个千。

2. 一个数的最高位是万位，这个数是（　　）位数。

3. 7418里面有（　　）个千、（　　）个百、（　　）个十和（　　）个一。

4. 由7个千和7个一组成的数写作（　　）。

5. 与6999相邻的两个数分别是（　　）和（　　）。

6. 一个一个地数，4400后面的第三个数是（　　）。

7. 一张床的价格是2989元，约是（　　）元；一本书共有1006页，约是（　　）页。

8. 用2、0、7、9组成一个四位数，组成的四位数最大是（　　），最小是（　　）。

9. 读出下面每件商品的价格。

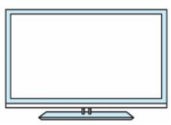

960元



1008元



3080元

读作（　　）元　读作（　　）元　读作（　　）元

10. 在◯里填上“＞”或“＜”。

4050 ◯ 4500　　4081 ◯ 4800　　7204 ◯ 7199

6470 ◯ 6740　　990 ◯ 1999　　9645 ◯ 8099

关注微信公众号“教辅资料站”获取更多学习资料

二、计算。（共 28 分）

1. 口算。（每题 2 分，共 18 分）

400 + 500 =　　400 + 900 =　　1200 − 500 =

8800 − 800 =　　1000 − 600 =　　300 + 800 =

9500 + 400 =　　2300 + 700 =　　9800 + 200 =

2. 将下面各数按从小到大的顺序排一排。（10 分）

2008　　1998　　2080　　3100　　2108

（　　）<（　　）<（　　）<（　　）<（　　）

三、解决问题。（共 22 分）

1. 果园里有梨树 500 棵，苹果树 800 棵，杏树 1000 棵。

（1）三种果树一共有多少棵？（7 分）

（2）苹果树比杏树少多少棵？（7 分）

2. 看图回答问题。（8 分）

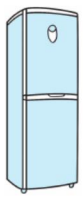

3890元



2120元



关注微信公众号“教辅资料站”获取更多学习资料

专项复习卷2 有余数的除法和两、三位数的加减法

班级_____ 姓名_____ 得分_____ 时间：40分钟 满分：100分

一、圈一圈，再填空。(12分)

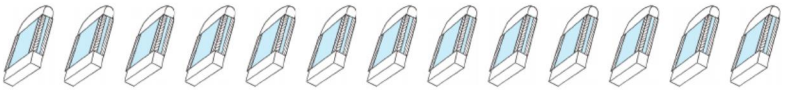

13块，平均分成4份，每份（　　）块，还剩（　　）块。

13 ÷ 4 = □（块）……□（块）

二、填空。(每空3分，共24分)

1. 把28张卡片平均分给9个小朋友，每个小朋友分到（　　）张，还剩（　　）张。

2. ★ ÷ 5 = 3……□，余数最大是（　　），当余数最大时，被除数是（　　）。

3. 在算式17 ÷ 7 = □……3中，商是（　　）。

4. 减数是289，差是457，被减数是（　　）。一个加数是231，和是522，另一个加数是（　　）。

5. 比372多169的数是（　　）。

三、计算。(共36分)

1. 直接写出得数。(每题2分，共16分)

35 ÷ 7 =	40 ÷ 8 =	7 × 8 =	38 + 732 =
54 ÷ 9 =	382 − 82 =	583 − 283 =	621 + 100 =

2. 用竖式计算，带☆的要验算。(要验算的每题4分，其余每题3分，共20分)

78 ÷ 9 =　　47 ÷ 5 =　　38 ÷ 6 =

关注微信公众号“教辅资料站”获取更多学习资料

☆287 + 364 =　　☆532 − 438 =　　721 − 149 + 207 =

四、解决问题。（共 28 分）

1. 有 42 人坐车旅游，每辆车只能坐 5 人，需要几辆车？（9 分）

2. 有 25 个西瓜，每筐装 9 个，能装满几筐？（9 分）

3. 二年级有多少本课外书？（10 分）





关注微信公众号“教辅资料站”获取更多学习资料

班级_____ 姓名_____ 得分_____ 时间：40分钟 满分：100分

一、填空。（每空2分，共46分）

1. 在下面括号里填上合适的长度单位。



粉笔长约

75（　　）

火柴长约

4（　　）



铅笔长约

16（　　）



橡皮长约

3（　　）



跳绳长约

2（　　）



茄子长约

25（　　）

2. 在下面括号里填上“时”“分”或“秒”。

（1）东东吃午饭用了20（　　）。

（2）我们每天的睡眠时间大约是9（　　）。

（3）我们的心脏跳动13次大约需要9（　　）。

（4）丽丽刷牙大约用了3（　　）。

（5）用微波炉加热牛奶大约用1（　　）。

3. 一个人唱一支歌要3分钟，10个人合唱这支歌需要（　　）分钟。

4. 从上海开往南京的车，A车是6：50开，B车是7：30开，（　　）车开得早。

5. 钟面上，时针从2走到3，需要的时间是（　　）时，是（　　）分钟。

6. （　　）厘米＝80毫米　　（　　）毫米＝5厘米

（　　）分米＝50厘米　　30毫米＝（　　）厘米

3时＝（　　）分　　60分＝（　　）时

4分＝（　　）秒　　300秒＝（　　）分

关注微信公众号“教辅资料站”获取更多学习资料

二、量一量。（以 mm 为单位）（14 分）

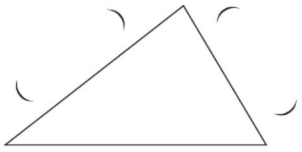

（　　）



（　　）　　（　　）

（　　）

三、下面是某天少儿频道的节目预告单。（共 40 分）

上午	下午
7：00 动画剧场	1：00 儿童剧场
8：00 银河剧场	2：40 智力快车
9：00 早间开心果	4：00 异想天开
10：00 小小智慧树	5：00 新闻袋袋裤
10：30 动画大放映	
12：00 动漫世界	

1. 下午 2：30 正在播出什么节目？（13 分）

2. 如果小红写完作业时是 4：05，此时打开电视，正在播放什么节目？（13 分）

3. 你还能提出什么问题？提出并解答。（14 分）

关注微信公众号“教辅资料站”获取更多学习资料

专项复习卷4 角的初步认识和认识方向

班级_____ 姓名_____ 得分_____ 时间：40分钟 满分：100分

一、填空。（第5题8分，其余每空3分，共38分）

1. 三角尺有（　　）个角，其中直角有（　　）个，最大的那个角是（　　）角。

2. 一条红领巾有（　　）个角，一个直尺有（　　）个角。

3. 3时和（　　）时，时针和分针形成的角同样大，是（　　）角。

4. 傍晚当你面对着太阳时，你的后面是（　　），右面是（　　），左面是（　　）。

5. 数一数下面图形分别有几个角。



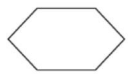


（　　）个角　（　　）个角　（　　）个角　（　　）个角

二、我会找。（共20分）

1. 下列图形哪些是角？在下面的（　　）里画“√”。（每题2分，共10分）



（　　）（　　）（　　）（　　）（　　）

2. 找出比直角小的角，在它下面的（　　）里画“√”。（每题2分，共10分）



（　　）（　　）（　　）（　　）（　　）

关注微信公众号“教辅资料站”获取更多学习资料

三、看图完成下面各题。（共 42 分）

1.（每空 1 分，共 4 分）

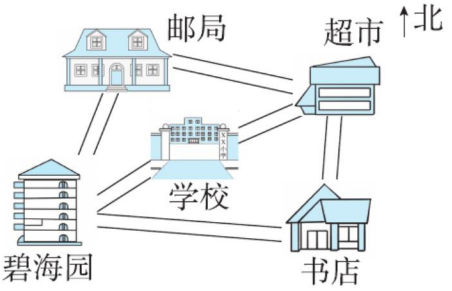

邮局在学校的（　　）面，

超市在学校的（　　）面，

书店在学校的（　　）面，

碧海园在学校的（　　）面。

2.（每空 2 分，共 38 分）

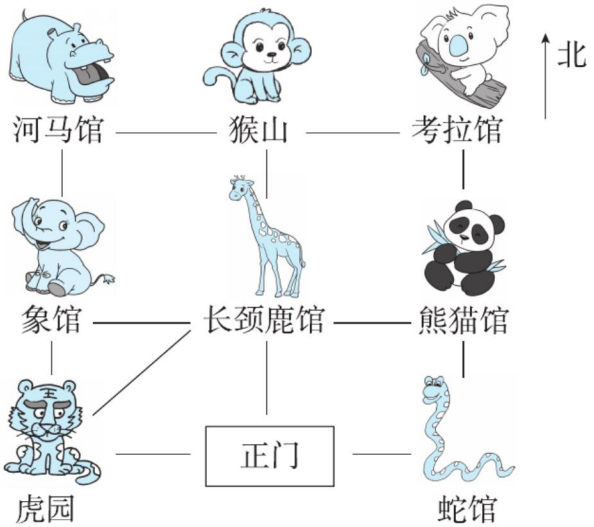

（1）（　　）馆在整个动物园的中心，又在河马馆的（　　）方。考拉馆在它的（　　）方，蛇馆在它的（　　）方，虎园在它的（　　）方。

（2）小丽的参观路线是：进正门后先向（　　）走，到虎园，再向（　　）走，到长颈鹿馆，再向（　　）走，到象馆，再向（　　）走，到河马馆，再向（　　）走，到猴山、考拉馆，再向（　　）走，到熊猫馆、蛇馆，最后向（　　）走，回到正门。

（3）熊猫馆在正门的（　　）方，猴山的（　　）方是象馆。河马馆在长颈鹿馆的（　　）方，河马馆的东南方是（　　）馆和（　　）馆。考拉馆的西南方是（　　）和（　　）。

关注微信公众号“教辅资料站”获取更多学习资料

班级_____ 姓名_____ 得分_____ 时间：40分钟 满分：100分

一、涂一涂，填一填。（共36分）

1. 红枫动物园有下面这些小动物。



（1）请你涂色表示每种小动物的只数。（1个□表示1只小动物）（12分）



（2）在这几种小动物中，数量最多的是（　　），数量最少的是（　　），数量最多的和最少的相差（　　）只。（9分）

2. （15分）

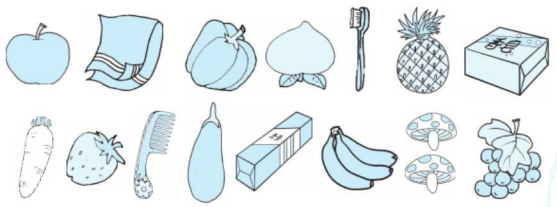

种类	水果	蔬菜	日用品
数量			

能否食用	能食用	不能食用
数量		

关注微信公众号“教辅资料站”获取更多学习资料

二、解决实际问题。（共 48 分）

1. 商店原来有 75 筐橘子，卖出 48 筐后，又运进 40 筐，这时商店有橘子多少筐？（16 分）

2. 小亮看一本 84 页的童话书，第一天看了 32 页，第二天看了 26 页，再看多少页才能看完？（16 分）

3. 学校买来了 30 盒白色粉笔，24 盒彩色粉笔，共用去 34 盒，还剩多少盒？（16 分）

三、文华小学的同学调查了学校门口某日下午 3 时至 5 时的车辆来往情况。（共 16 分）

轿车	面包车	自行车	电动车
正正正正正正下	正正丁	正正正正正正	正正正正正正正正

1. 请你根据记录，把表格填写完整。（8 分）

轿车	面包车	自行车	电动车
（　　）辆	（　　）辆	（　　）辆	（　　）辆

2. 在来往的车辆中，（　　）车最多，（　　）车最少，它们相差（　　）辆。（6 分）

3. 请根据上面的统计情况，把下面的表格填写完整。（2 分）

下午 3：00～4：00	下午 4：00～5：00
48 辆	（　　）辆

关注微信公众号“教辅资料站”获取更多学习资料

满分压轴卷 1 常考易错突破卷(一)

班级_____ 姓名_____ 得分_____ 时间：40分钟 满分：100分

一、计算。(共35分)

1. 直接写出得数。(每题2分，共24分)

160 − 80 =	700 + 40 =	40 + 500 =	110 − 30 =
300 + 700 =	840 − 40 =	25 ÷ 5 =	56 ÷ 7 =
48 ÷ 6 =	4 × 3 =	72 ÷ 9 =	5 × 9 =

2. 用竖式计算，带☆的要验算。(要验算的每题4分，其余每题3分，共11分)

☆500 − 116 = ☆348 + 589 = 75 ÷ 8 =

二、填空。(每空1分，共20分)

1. 4个百和3个十是(　　)，3个百和4个一是(　　)。
2. 从0、2、5、8中选出三个数字组成不同的三位数，其中最大的数是(　　)，最小的数是(　　)。
3. 一条船最多可乘6人，45名同学去划船，至少需要(　　)条船。
4. 一支钢笔长14(　　)。
5. □ ÷ 7 = □……□，余数最大能是(　　)。□ ÷ □ = □……7，除数最小能是(　　)。
6. (　　)里最大能填几?

8 × (　　) < 30	(　　) × 7 < 67	(　　) × 5 < 25
4 × (　　) < 13	(　　) × 9 < 73	(　　) × 5 < 39

7. 在◯里填上“>”“<”或“=”。

8毫米◯5厘米	1米◯10分米	6分米◯6厘米
10毫米◯8分米	10厘米◯1分米	9分米◯10厘米

关注微信公众号“教辅资料站”获取更多学习资料

三、数一数。(18 分)

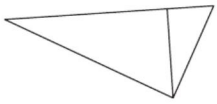
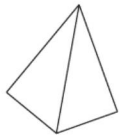


(　　)个锐角　　(　　)个锐角　　(　　)个锐角

(　　)个直角　　(　　)个直角　　(　　)个直角

(　　)个钝角　　(　　)个钝角　　(　　)个钝角

四、解决实际问题。(共 27 分)

1. (6 分)



(　　) ÷ (　　) = (　　)(组)……(　　)(朵)

(　　) ÷ (　　) = (　　)(朵)……(　　)(朵)

2. 学校花房里养了 17 盆花，平均分给 4 个班，每班分几盆？还剩几盆？(7 分)

3. 同学们去郊游，一年级去了 97 人，二年级去了 105 人，三年级去的人数与一年级同样多，三个年级一共去了多少人？(7 分)

4. 饲养场有小白兔 178 只，小灰兔比小白兔多 35 只，小黑兔比小灰兔多 59 只，小灰兔有多少只？小黑兔有多少只？(7 分)

关注微信公众号“教辅资料站”获取更多学习资料

满分压轴卷2 常考易错突破卷(二)

班级_____ 姓名_____ 得分_____ 时间：40分钟 满分：100分

一、计算。(共31分)

1. 直接写出得数。(每题2分，共20分)

170 − 70 =	40 + 500 =	900 − 300 =	40 ÷ 8 =
130 − 80 =	60 + 90 =	800 + 20 =	1000 − 400 =
7 × 9 =	45 ÷ 5 =		

2. 用竖式计算，带☆的要验算。(要验算的每题4分，其余每题3分，共11分)

☆486 + 374 = ☆702 − 308 = 39 ÷ 5 =

二、填空。(每空1分，共27分)

1. □ ÷ □ = □……3，除数最小应是（ ）。
2. 在数位顺序表中，从右数，第二位是（ ）位，它的右边一位是（ ）位，左边一位是（ ）位，千位是第（ ）位。
3. 13个十是（ ），4个百和2个十合起来是（ ）。
4. 809里有（ ）个一和（ ）个百，10个一百是（ ）。
5. 下面几个数中最接近800的是（ ）。

798 718 801 698

6. 1米 = （ ）分米 1分米 = （ ）厘米

1分米 = （ ）毫米 1米 = （ ）厘米

2分米 = （ ）厘米 7米 = （ ）分米

7. 在（ ）里填上合适的单位名称。

课桌高70（ ） 书架高2（ ） 铁钉长30（ ）

关注微信公众号“教辅资料站”获取更多学习资料

8. 在◯里填上“＞”“＜”或“＝”。

100 厘米◯2 米　　1 厘米◯10 毫米　　3 分米◯20 厘米

9. 下面每个数接近哪个整百数？

598	307	713	688
(　　)	(　　)	(　　)	(　　)

三、操作题。（共 24 分）

1. 画一条长 6 厘米的线段，再画一条比它短 3 厘米的线段。（8 分）

2. 按要求画一画，填一填。（16 分）

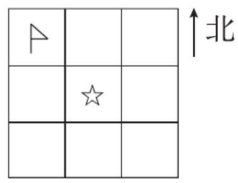

（1）在☆的东南面画△。

（2）在☆的西面画□。

（3）○画在☆的东北面。

（4）⊢在☆的（　　）面，☆在⊢的（　　）面。

四、下表是二（2）班学生每天看电视时间情况统计表。（共 18 分）

时间	30 分钟以下	30 分钟—1 小时	1 小时以上
人数	正正	正正正正正正丅	正

1. 每个“正”字表示（　　）名学生。（3 分）

2. 这个班有多少名学生？（15 分）

关注微信公众号“教辅资料站”获取更多学习资料

周测培优卷 1

有余数的除法

一、1.（1）3　3

15 ÷ 4 = 3（份）……3（个）

（2）2　1

15 ÷ 7 = 2（个）……1（个）

2. 6

3. 5　6　4

4. 8　1

5. □　【点拨】每 4 个图形一组，22 个图形就有 5 组，还多 2 个，多的是○□，所以第 22 个图形是□。

6. 6　2　5　1　4　2

7. 5

二、74 ÷ 9 = 8……2

$$\begin{array}{r} 8 \\ 9\overline{)74} \\ \underline{72} \\ 2 \end{array}$$

18 ÷ 4 = 4……2

$$\begin{array}{r} 4 \\ 4\overline{)18} \\ \underline{16} \\ 2 \end{array}$$

60 ÷ 8 = 7……4

$$\begin{array}{r} 7 \\ 8\overline{)60} \\ \underline{56} \\ 4 \end{array}$$

34 ÷ 5 = 6……4

$$\begin{array}{r} 6 \\ 5\overline{)34} \\ \underline{30} \\ 4 \end{array}$$

三、× 改正：$\begin{array}{r} 5 \\ 3\overline{)17} \\ \underline{15} \\ 2 \end{array}$　√　× 改正：$\begin{array}{r} 6 \\ 3\overline{)18} \\ \underline{18} \\ 0 \end{array}$

四、1. 21 ÷ 6 = 3（个）……3（枝）

答：可以插满 3 个花瓶，还剩 3 枝。

2. 13 ÷ 3 = 4（个）……1（个）

答：小明还有 1 个苹果。

3. 31 ÷ 7 = 4（个）……3（天）

答：这个月有 4 个星期，余 3 天。

4. 23 ÷ 4 = 5（条）……3（名）

5 + 1 = 6（条）

答：至少需要 6 条船。

周测培优卷 2

时、分、秒

一、1. 1 时　1 分　5 分

2. 60　60　60

3. 11 时 40 分 30 秒　30

关注微信公众号“教辅资料站”获取更多学习资料

4. > > =

5. 3 15

6. 4 50

7. 2 40

8. 15

9. 2：00

10. 2 10

二、时 分 秒

三、1. ② 2. ② 3. ①

四、4：00 12：30 6：00 10：00

五、

六、

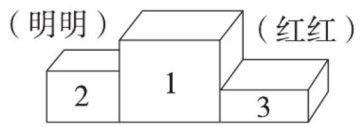

周测培优卷 3

认识方向

一、1. 北 西

2. 北 南 西 东

3. 东 北

4. 东 西北 西南

5. 6 9 3

二、1. × 2. √ 3. √

三、

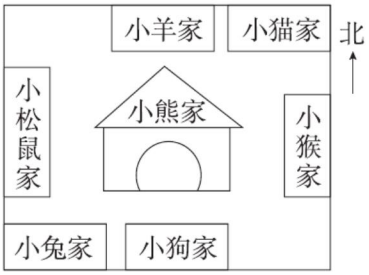

四、1. 西 南

2. 河马馆 狮子馆

3. 北 东（或东 北）

五、1. 东南 西 东 西南

2. 市文化宫 小川家 邮局

邮局

周测培优卷 4

万以内数的认识及组成

一、8900 4700 9000 8600

1000 3500

二、1.（1）百 3 5 二百三十五

（2）5 3 十 五百三十

（3）6 百 7 一 六百零七

（4）7 百 七百

2. 三 万

3. 千 四 十 6 个十 千

3 个千

4. 10 10 10

关注微信公众号“教辅资料站”获取更多学习资料

5. 2050　二千零五十

6. 8　19

7. 1000　100　1100

8. 3　2　7

9. 10000　999

10. 45200　45400

11. 7700　7007

三、1. ×　2. √　3. √　4. ×

5. ×　6. √　7. ×

四、1. 二百七十

2. 6800

3. 八千八百四十四

五、1.

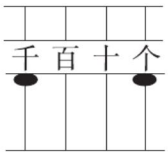

2.

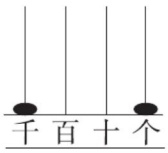

周测培优卷 5

万以内数的大小比较及简单的近似数

一、1. 200

2. 600　700

3. 2000　1890

4. 900

5. 3997　4000

6. 3049　4039

二、1. ×　2. √　3. ×

三、1. <　<　>　<　<　>

2. 3　6　4　2

3.

6899 元	1302 元	3500 元	3002 元
		√	

4. (1) 桃树：3000 棵

梨树：4000 棵

苹果树：3000 棵

杏树：1000 棵

(2) 桃树和苹果树。

(3) 杏树。

周测培优卷 6

认识分米和毫米、简单的单位换算

一、1. 米　分米　厘米　毫米

2. 米　毫米

3. 分米　毫米　米　分米　分米

厘米　米　分米　厘米　毫米

4. 10　10　40　2　2　40　5　70

10　90　5　7　3　70

5. >　=　<　>　<　=

二、1. √　2. √　3. √　4. ×

三、1.



关注微信公众号“教辅资料站”获取更多学习资料

2. 55毫米

【点拨】3 厘米 = 30 毫米

30 + 25 = 55（毫米）

3.

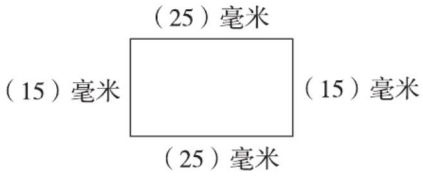

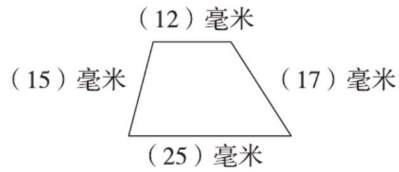

四、1. 1 米 45 厘米 = 145 厘米

1 米 65 厘米 = 165 厘米

165 − 145 = 20（厘米）

20 厘米 = 2 分米

答：小强比小军高 20 厘米，合 2 分米。

2. 6 米 = 60 分米

60 ÷ 9 = 6（套）……6（分米）

答：这块花布最多能做 6 套衣服。

3. 7 分米 = 700 毫米

700 − 45 = 655（毫米）

答：还剩 655 毫米。

4. 4 + 1 = 5（段）

40 ÷ 5 = 8（分米）

答：平均每段长 8 分米。

【点拨】木头锯 4 次会有 5 段。

周测培优卷 7

两位数加减两位数的计算及解决实际问题

一、61　19　32　10　53　66

24　61　45　25　9　50

二、1. 81　22

2. 54

3. <　>　>

4. 42 + 35 □　　56 + 27 √

18 + 65 √　　29 + 59 √

23 + 56 □　　77 + 13 √

5. 29　72　46

三、18　7　70　47

四、1. 27 + 16 − 5 = 38（只）

答：现在湖边有 38 只船。

2. 76 − 25 + 18 = 69（张）

答：姐姐现在有 69 张邮票。

3. 75 − 32 − 27 = 16（页）

答：还剩下 16 页没有看。

4. 90 − 27 − 36 = 27（个）

答：还剩下 27 个。

5. 42 + 58 − 30 = 70（个）

答：二年级一班的同学还剩下手工娃娃 70 个。

关注微信公众号“教辅资料站”获取更多学习资料

周测培优卷 8

三位数加减两、三位数的笔算及解决实际问题

一、546 + 272 = 818

$$\begin{array}{r} 546 \\ +\ 272 \\ \hline 818 \end{array}$$

265 + 276 = 541

$$\begin{array}{r} 265 \\ +\ 276 \\ \hline 541 \end{array}$$ 验算：$$\begin{array}{r} 276 \\ +\ 265 \\ \hline 541 \end{array}$$

486 + 127 + 237 = 850

$$\begin{array}{r} 486 \\ +\ 127 \\ \hline 613 \end{array}$$ $$\begin{array}{r} 613 \\ +\ 237 \\ \hline 850 \end{array}$$

657 − 375 = 282

$$\begin{array}{r} 657 \\ -\ 375 \\ \hline 282 \end{array}$$

600 − 194 = 406

$$\begin{array}{r} 600 \\ -\ 194 \\ \hline 406 \end{array}$$ 验算：$$\begin{array}{r} 406 \\ +\ 194 \\ \hline 600 \end{array}$$

670 − 383 + 456 = 743

$$\begin{array}{r} 670 \\ -\ 383 \\ \hline 287 \end{array}$$ $$\begin{array}{r} 287 \\ +\ 456 \\ \hline 743 \end{array}$$

二、1. 384　66

2. ＞　＜　＞　＜

3. 301

4. 407　582　532　599

三、1. 533 − 246 √

2. 435 + 169 √

3. 768 − 178 √

四、1. 461 + 486 − 856 = 91（人）

答：还未达标的有 91 人。

2. 453 + 471 = 924（人）

924 ＜ 950

答：够。

3. 574 − 492 = 82（个）

答：还差 82 个字就能完成这周的练习任务了。

周测培优卷 9

直角、锐角和钝角

一、1.



2. 1　2

3. 直角

4. 4

5. 8

6. 大　大

二、1. √　2. ×　3. √

三、1. ③　2. ③　3. ③

四、1. ③⑦　②⑤⑧　①④⑥

关注微信公众号“教辅资料站”获取更多学习资料

2. （1）3　8　2　6

（2）3　2　2　4　2　1

3. （1）

【点拨】答案不唯一。

（2）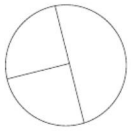

周测培优卷 10

简单的数据的收集和整理

一、10　3　4　5　5　4　2

二、1. 正正丅　正下　正正　正下

正正正正丅

2. 

3. 晴　雨

4. 10

5. 12－8＝4（天）

答：这个月晴天比雨天多4天。

6. 10－8＝2（天）

答：这个月阴天比雨天多2天。

三、1. 看书　体育运动

2. 6

3. 8

4. 14＋10＋8＋2＋4＝38（人）

答：这个班一共有38人。

期末复习冲刺卷

专项复习卷1　认识万以内的数

一、1. 10　1000　10

2. 五

3. 7　4　1　8

4. 7007

5. 6998　7000

6. 4403

7. 3000　1000

8. 9720　2079

9. 九百六十　一千零八

三千零八十

10. <　<　>　<　<　>

二、1. 900　1300　700　8000　400

1100　9900　3000　10000

2. 1998　2008　2080

2108　3100

三、1. （1）500＋800＋1000＝2300（棵）

答：三种果树一共有2300棵。

（2）1000－800＝200（棵）

答：苹果树比杏树少200棵。

关注微信公众号“教辅资料站”获取更多学习资料

2. $3890 \approx 4000$

$2120 \approx 2000$

$4000 + 2000 = 6000$（元）

$6000 > 5000$

答：不够。

期末复习冲刺卷

专项复习卷2　有余数的除法和两、三位数的加减法

一、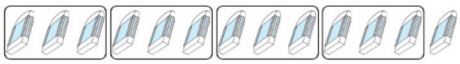

3　1　3　1

二、1. 3　1

2. 4　19

3. 2

4. 746　291

5. 541

三、1. 5　5　56　770　6　300

300　721

2. $78 \div 9 = 8 \cdots\cdots 6$

$$9\overline{)78}\quad\begin{array}{r}8\\72\\\hline 6\end{array}$$

$47 \div 5 = 9 \cdots\cdots 2$

$$5\overline{)47}\quad\begin{array}{r}9\\45\\\hline 2\end{array}$$

$38 \div 6 = 6 \cdots\cdots 2$

$$6\overline{)38}\quad\begin{array}{r}6\\36\\\hline 2\end{array}$$

$287 + 364 = 651$

$$\begin{array}{r}287\\+\ 364\\\hline 651\end{array}\quad\text{验算：}\quad\begin{array}{r}364\\+\ 287\\\hline 651\end{array}$$

$532 - 438 = 94$

$$\begin{array}{r}532\\-\ 438\\\hline 94\end{array}\quad\text{验算：}\quad\begin{array}{r}438\\+\ 94\\\hline 532\end{array}$$

$721 - 149 + 207 = 779$

$$\begin{array}{r}721\\-\ 149\\\hline 572\end{array}\qquad\begin{array}{r}572\\+\ 207\\\hline 779\end{array}$$

四、1. $42 \div 5 = 8$（辆）……2（人）

$8 + 1 = 9$（辆）

答：需要9辆车。

2. $25 \div 9 = 2$（筐）……7（个）

答：能装满2筐。

3. $621 + 39 = 660$（本）

答：二年级有660本课外书。

期末复习冲刺卷

专项复习卷3　时、分、秒与分米和毫米

一、1. 毫米　厘米　厘米　厘米

米　厘米

关注微信公众号“教辅资料站”获取更多学习资料

2. (1) 分　(2) 时　(3) 秒

(4) 分　(5) 分

3. 3

4. A

5. 1　60

6. 8　50　5　3　180　1　240　5

二、

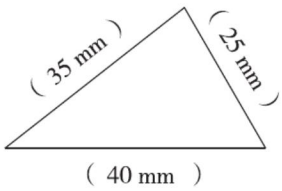

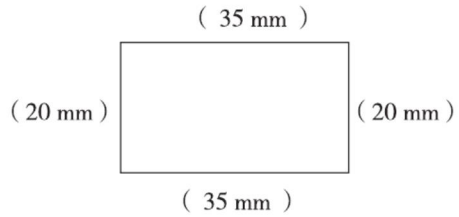

三、1. 下午 2：30 正在播出《儿童剧场》。

2. 正在播放《异想天开》。

3. 10：10 正在播出什么节目？

《小小智慧树》

【点拨】答案不唯一。

期末复习冲刺卷

专项复习卷 4　角的初步认识和认识方向

一、1. 3　1　直

2. 3　4

3. 9　直

4. 东　北　南

5. 4　3　6　3

二、1. (　)(　)(√)(√)(√)

2. (　)(√)(　)(√)(√)

三、1. 西北　东北　东南　西南

2. (1) 长颈鹿　东南　东北

东南　西南

(2) 西　东北　西　北　东

南　西

(3) 东北　西南　西北

长颈鹿　蛇　长颈鹿馆

虎园

期末复习冲刺卷

专项复习卷 5　两步计算的加减法的实际问题与数据的收集和整理

一、1. (1)

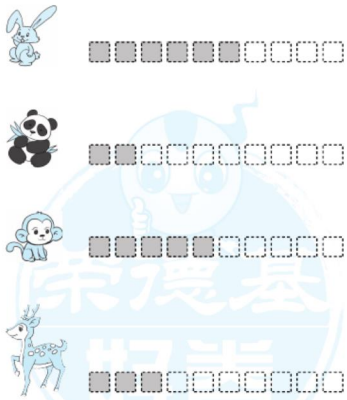

(2) 小兔　熊猫　4

关注微信公众号“教辅资料站”获取更多学习资料

2. 6　4　5　10　5

二、1. 75 − 48 + 40 = 67（筐）

答：这时商店有橘子 67 筐。

2. 84 − 32 − 26 = 26（页）

答：再看 26 页才能看完。

3. 30 + 24 − 34 = 20（盒）

答：还剩 20 盒。

三、1. 33　12　30　44

2. 电动　面包　32

3. 71

期末复习冲刺卷

满分压轴卷 1　常考易错突破卷（一）

一、1. 80　740　540　80　1000　800

5　8　8　12　8　45

2. 500 − 116 = 384

$$\begin{array}{r} 500 \\ -\ 116 \\ \hline 384 \end{array}$$ 验算：$$\begin{array}{r} 384 \\ +\ 116 \\ \hline 500 \end{array}$$

348 + 589 = 937

$$\begin{array}{r} 348 \\ +\ 589 \\ \hline 937 \end{array}$$ 验算：$$\begin{array}{r} 589 \\ +\ 348 \\ \hline 937 \end{array}$$

75 ÷ 8 = 9……3

$$\begin{array}{r} 9 \\ 8\overline{)75} \\ 72 \\ \hline 3 \end{array}$$

二、1. 430　304

2. 852　205

3. 8

4. 厘米

5. 6　8

6. 3　9　4　3　8　7

7. <　=　>　<　=　>

三、4　3　0　5　2　1　10　4　2

四、1. 17 ÷ 5 = 3（组）……2（朵）

17 ÷ 3 = 5（朵）……2（朵）

2. 17 ÷ 4 = 4（盆）……1（盆）

答：每班分 4 盆，还剩 1 盆。

3. 97 + 105 + 97 = 299（人）

答：三个年级一共去了 299 人。

4. 178 + 35 = 213（只）

213 + 59 = 272（只）

答：小灰兔有 213 只，小黑兔有 272 只。

期末复习冲刺卷

满分压轴卷 2　常考易错突破卷（二）

一、1. 100　540　600　5　50

150　820　600　63　9

关注微信公众号“教辅资料站”获取更多学习资料

2. 486 + 374 = 860

$$\begin{array}{r} 486 \\ +\ 374 \\ \hline 860 \end{array}$$ 验算: $$\begin{array}{r} 374 \\ +\ 486 \\ \hline 860 \end{array}$$

702 − 308 = 394

$$\begin{array}{r} 702 \\ -\ 308 \\ \hline 394 \end{array}$$ 验算: $$\begin{array}{r} 394 \\ +\ 308 \\ \hline 702 \end{array}$$

39 ÷ 5 = 7……4

$$\begin{array}{r} 7 \\ 5\overline{)39} \\ 35 \\ \hline 4 \end{array}$$

二、1. 4

2. 十　个　百　四

3. 130　420

4. 9　8　1000

5. 801

6. 10　10　100　100　20　70

7. 厘米　米　毫米

8. <　=　>

9. 600　300　700　700

三、1.

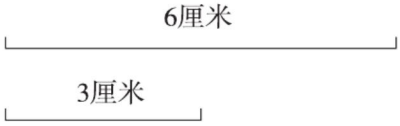

2. (1)(2)(3) 如图。

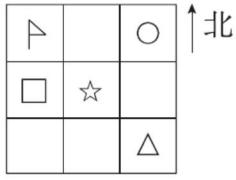

(4) 西北　东南

四、1. 5

2. 10 + 32 + 5 = 47（名）

答：这个班有 47 名学生。

关注微信公众号“教辅资料站”获取更多学习资料

《好卷》题题好　成绩步步高







荣德基官方网站: www.rudder.com.cn

荣德基天猫旗舰店: http://rongdeji.tmall.com

关注微信公众号“教辅资料站”获取更多学习资料