《好卷》=《大卷》+《小卷》：不是所有的试卷都叫“好卷”，期末提分才是硬道理

同步测评用

小卷 周测培优卷

数数、写数、读数 …… 01
大小比较、较大数的估计、认识算盘 …… 03
千米、毫米的认识和简单的单位换算 …… 05
整十、整百数的加减、三位数的加法 …… 07
三位数的减法、探索规律和问题解决 …… 09
长方形、正方形的特征和平行四边形的认识 …… 11
认识除法算式和有余数的除法 …… 13
时、分、秒和问题解决 …… 15
分类、整理数据，认识图形，统计图和统计表 …… 17

大卷 单元检测卷

第一单元　跟踪检测卷 …… 1
第二单元　跟踪检测卷 …… 5
第三单元　跟踪检测卷 …… 9
期中　跟踪检测卷 …… 13
第四单元　跟踪检测卷 …… 17
第五单元　跟踪检测卷 …… 21
第六、七单元　跟踪检测卷 …… 25

期末冲刺用

小卷 专项能力提升卷

计数单位的认识、含0的数的写、读规则 …… 19
三位数的连续进位加法和退位减法的计算及应用 …… 21
有余数的除法计算及应用 …… 23
时、分、秒的换算及经过时间的计算方法 …… 25
常考易错题 …… 27

填空题 …… 29
选择题 …… 31
计算题（一） …… 33
计算题（二） …… 35
图形题 …… 37
应用题（一） …… 39
应用题（二） …… 41

大卷 模块过关卷 仿真模拟卷

数与代数　统计 …… 29
图形与几何 …… 33

仿真模拟卷（一） …… 37
仿真模拟卷（二） …… 41
仿真模拟卷（三） …… 45



大卷答案 见大卷49~60页　小卷答案 见小卷43~46页

荣德基 好卷 微信公众号 教辅资料站
关注微信公众号“教辅资料站”获取更多学习资料

姓名 学号 班级 学校

密 封 线

豆点提示：请不要在密封线内答题哦！



第一单元 跟踪检测卷

万以内数的认识

时间：60 分钟　满分：100 分 +10 分

题号	一	二	三	四	五	六	附加题	总分
得分								

一、填空。（每空 1 分，共 30 分）

1. 7004 里面有（　　）个（　　）和（　　）个（　　）。52 个百是（　　）。
2. 与 7899 相邻的两个数是（　　）和（　　）。
3. 由 4 个千，8 个百，5 个一组成的数是（　　），它是（　　）位数，最高位是（　　）位。
4. 一个数千位和个位上都是 9，其余数位上都是 0，这个数是（　　），读作：（　　）。
5. 比 2999 多 1 的数是（　　），比 10000 少 1 的数是（　　）。
6. 七千六百四十八是由（　　）个千、（　　）个百、4 个（　　）和 8 个（　　）组成的，写作（　　）。
7. 按规律写数。

（1）

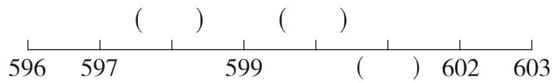

（2）2396，2386，2376，（　　），（　　）。

8. 在○里填上“＞”“＜”或“＝”。



9. 一百一百地数，6930 后面连续的两个数是（　　），（　　）。

二、判断。（对的打“√”，错的打“×”）（每题 2 分，共 10 分）

1. 9009 中的两个“9”表示的意义相同。（　　）
2. 10000 里面有 1000 个十。（　　）
3. 与 5020 相邻的两个数是 5010 和 5030。（　　）
4. 近似数小于准确数。（　　）
5. 6040 中的两个“0”都不读。（　　）

三、选择。（将正确答案的序号填在括号里）（每题 2 分，共 10 分）

1. 3028 中的“3”表示（　　）。

①3 个十　　②3 个百　　③3 个千

2. 只读一个零的数是（　　）。

①3400　　②3040　　③9830

3. 6000 前面的一个数是（　　）。

①5000　　②6001　　③5999

4. 根据六千零九写出的数中间（　　）。

①有一个 0　　②有 2 个 0　　③没有 0

5. 用 7、0、5 三个数可以组成（　　）个不同的三位数。

①4　　②5　　③6

四、它们分别该吃哪个桃子？（连一连）（8 分）





五、按要求做题。（共 22 分）

1. 读一读。（每小题 2 分，共 6 分）

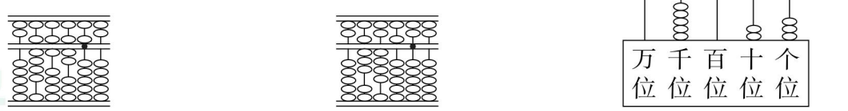

读作：_____　　读作：_____　　读作：_____

荣德基 微信公众号 教辅资料站
关注微信公众号“教辅资料站”获取更多学习资料

2. 画一画。（每小题2分，共6分）

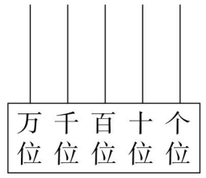

4060

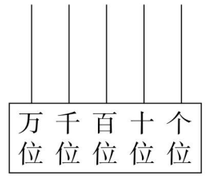

10000

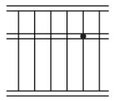

4378

3. 写一写。（每小题3分，共6分）

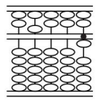

写作：_____



写作：_____

4. 比一比。（4分）

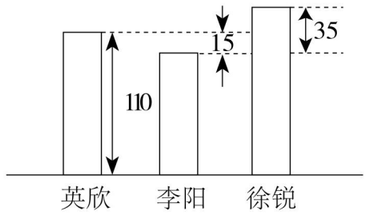

六、问题解决。（第1、2题每题3分，3题14分，共20分）

1.





在正确答案下面画“√”。

100颗	200颗	400颗

2. 根据下图，在表格中选择合适的价格画“√”。

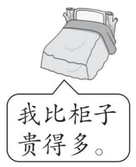

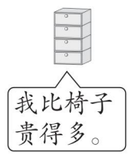



	2300元	800元	100元
床			
柜子			
椅子			

3. 某网店上周销售情况如下：

星期	一	二	三	四	五	六	日
金额（元）	486	1600	879	998	2005	8942	7987

（1）分一分。

三位数	

四位数	

（2）填一填。

①（　　）与1000最接近，（　　）比8000大。

②个位上是6的数是（　　），百位上是8的数是（　　）。

③7987 = 7000 + 900 + 80 + 7

8942 = （　　） + （　　） + （　　） + 2

1600 = （　　） + （　　）

（3）把上面每天销售的金额数按从少到多的顺序排一排。

附加题：（10分）

从0～9这十个数字中选出四个（每小题中每个数字只能出现一次），按要求组成四位数。

（1）组成最大的四位数是_____。

（2）组成最小的四位数是_____。

（3）组成有一个零，但零不读出来的最大四位数是_____。

（4）组成有一个零，并且要读出来的最小四位数是_____。

荣德基 品质教辅 微信公众号 教辅资料站
关注微信公众号“教辅资料站”获取更多学习资料

自己说说

老师点评

家长点评

密 封 线

姓名 学号 班级 学校

密 封 线

豆点提示：请不要在密封线内答题哦！

第二单元 跟踪检测卷

千米的认识

时间：60 分钟　满分：100 分 +10 分

题号	一	二	三	四	五	六	附加题	总分
得分								

一、填空。（每空 1 分，共 25 分）

1. 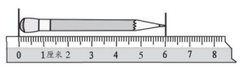
长（　　）厘米

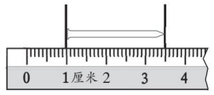
长（　　）毫米


高（　　）毫米

2. 2000 米比 1 千米多（　　）千米。
3. 测量高速公路的长度应用（　　）作单位，测量一元硬币的厚度应用（　　）作单位。
4. 操场的跑道，通常一圈是 400 米，那么两圈半是（　　）千米。
5. 7 cm =（　　）mm　　3000 m =（　　）km　　400 mm =（　　）dm
8 km =（　　）m　　8 dm =（　　）mm　　1000 mm =（　　）m
6. 在◯里填上“ > ”“ < ”或“ = ”。
9 km ◯ 900 m　　13 cm ◯ 31 mm
67 mm + 33 mm ◯ 1 m　　4000 m ◯ 4 km
140 cm ◯ 14 dm　　8 km − 6 km ◯ 1999 m
7. 7 km − 4000 m =（　　）m　　7 mm + 3 mm =（　　）cm
3 km + 6 km =（　　）m　　63 mm + 37 mm =（　　）dm
8. 一条彩带用了全长的一半还多 5 分米，这时还剩 20 分米，这条彩带原来长（　　）分米，合（　　）米。

二、判断。（对的打“√”，错的打“×”）（每题 2 分，共 12 分）

1. 周小锐每分走 3 千米。（　　）
2. 1000 米长的铁丝和 1 千米长的电线一样长。（　　）
3. 比 5 米多 5 厘米是 55 厘米。（　　）
4. 长度单位之间的进率都是 10。（　　）
5. 5 厘米大于 30 毫米。（　　）
6. 一张书桌高 7 米。（　　）

三、选择。（将正确答案的序号填在括号里）（每题 2 分，共 12 分）

1. 1 公里的路程就是（　　）。
①1000 厘米　　②1000 分米　　③1 千米
2. 一支铅笔原来长 2 分米，用去 1 厘米，还剩下（　　）。
①1 厘米　　②10 厘米　　③19 厘米
3. 世界上最高的山峰是我国的珠穆朗玛峰，高约为 8844（　　）。
①km　　②m　　③dm
4. 数学课本的宽大约是 183（　　）。
①mm　　②cm　　③dm
5. 长分别为 10 米、5000 毫米、1 千米的三条绳子中，最短的是长（　　）的绳子。
①10 米　　②5000 毫米　　③1 千米
6. 把一根 1 米长的绳子平均分成 5 段，每段长（　　）分米。
①4　　②3　　③2

四、在（　　）里填上合适的长度单位。（6 分）

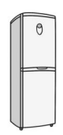
高约 17（　　）


高约 12（　　）


每时约行驶 90（　　）


身高约 130（　　）



故事书厚约 28（　　）



银行卡的厚度约是 1（　　）

五、按要求做题。（共 27 分）

1. 量一量。（先测量，再填写）（每小题 3 分，共 6 分）
（1）（　　）mm
（　　）cm（　　）mm
（　　）cm（　　）mm

（2）（　　）cm　（　　）cm（　　）mm
（　　）cm

2. 画一画。（每小题 2 分，共 4 分）
（1）画一条长 2 cm 8 mm 的线段。（2）画一条比 4 cm 短 5 mm 的线段。

荣德基 荣誉出品 微信公众号 教辅资料站
关注微信公众号“教辅资料站”获取更多学习资料

3. 连一连。（行1千米需要多长时间）（3分）

步行 　　1分

乘汽车 　　15分

骑自行车 　　4分

4. 比一比。（10分）

30 cm　　17 dm　　1 km　　20 m　　100 mm

□ < □ < □ < □ < □

5. 估一估。（每小题2分，共4分）



（1）灿灿家离邮局有多远？（画“√”）

210 m	750 m	3 km

（2）丁丁家离邮局有多远？（画“△”）

1 km	2 km	3 km

六、问题解决。（第3题8分，其余每题5分，共18分）

1. 小文家离“欢乐谷”景点55 km，小文从家出发，步行了一段后，又乘客车行驶了52 km正好到达“欢乐谷”景点，小文步行了多远？

2. 兵兵每天放学回家先要坐公交车行驶4 km，再步行1 km才到家。兵兵每天往返一次。

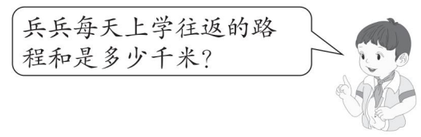

3.

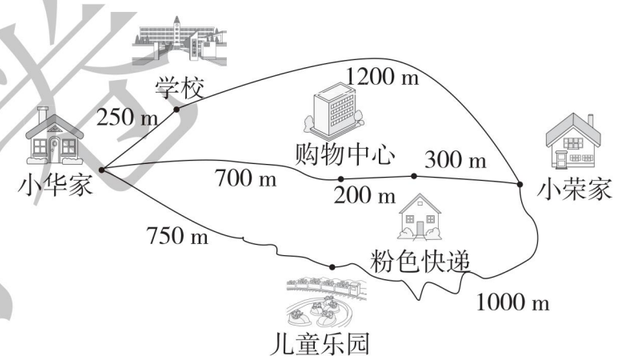

（1）小华家距离（　　）最近。

（2）小荣放学从学校去儿童乐园，最少要走多少千米？

（3）请你提出一个数学问题并解决。

附加题：（10分）

甲瓶和乙瓶哪个高，高多少毫米？

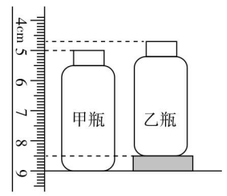

荣德基 品质教辅 微信公众号 教辅资料站
关注微信公众号“教辅资料站”获取更多学习资料
自己说说 老师点评 家长点评 密 封 线



第三单元 跟踪检测卷

三位数的加减法

时间：60 分钟　满分：100 分 +10 分

题号	一	二	三	四	五	六	附加题	总分
得分								

一、填空。（每空 1 分，共 20 分）

1. 在括号里填上合适的数。

（　　）+50 = 650　　（　　）−300 = 460　　730 −（　　）= 30

2. 923 比一个数多 79，这个数是（　　），56 比 290 少（　　）。

3. 最大的三位数与最小的两位数相差（　　）。

4. 百位上的 7 比十位上的 7 多（　　）。

5. 一年级有学生 496 人，二年级有学生 503 人，两个年级大约共有学生（　　）人，估算时，可把 496 看成（　　），把 503 看成（　　）。

6. 把这些算式按得数大小排成一行。

715 + 285　　373 + 427　　700 − 435　　830 − 385

_____ > _____ > _____ > _____

7. 一个三位数减 100，差最大是（　　），最小是（　　）。

8. 一张床现价是 500 元，比原价降低了 256 元，原价是（　　）元。

9. 在横线上填上合适的数、式子或图形。

（1）5，6，7，5，6，7，5，6，_____

（2）2 + 4 = 6，3 + 5 = 8，4 + 6 = 10，_____

（3）□△△□△△□△_____

二、判断。（对的打“√”，错的打“×”）（每题 2 分，共 12 分）

1. 计算加减法时都从高位算起。（　　）

2. 630 比 540 多 90，比 700 少 70。（　　）

3. 在加法中，和比两个加数都大。（　　）

4. 784 − 287 = 497 只能用 287 + 497 = 784 验算。（　　）

5. 一个加数减少 20，另一个加数增加 20，它们的和不变。（　　）

6. 三位数减三位数所得的差一定是三位数。（　　）

三、选择。（将正确答案的序号填在括号里）（每题 2 分，共 10 分）

1. 验算 300 − 253 = 47，正确的方法为（　　）。

①300 + 47　　②47 + 253　　③253 − 47

2. 两个三位数相加，它们的和是（　　）。

①三位数　　②四位数　　③三位数或四位数

3. 一个三位数减去 99，差最小是（　　）。

①100　　②10　　③1

4. 在减法算式中，差（　　）被减数。

①大于　　②小于　　③小于或等于

5. 某菜鸟驿站上周的快递量为 421 件，本周的快递量比上周多 29 件，这两周的快递总量是多少？正确列式是（　　）。

①421 + 29　　②421 + 421　　③421 + 29 + 421

四、计算。（共 31 分）

1. 直接写出得数。（每小题 1 分，共 6 分）

400 − 200 =　　300 + 700 =　　470 + 60 =

750 − 80 =　　72 ÷ 8 =　　540 − 500 =

2. 竖式计算。（带 * 的要验算）（每小题 2 分，共 12 分）

523 − 459 =　　547 + 96 =　　501 − 497 =

* 397 + 405 =　　* 700 − 494 =　　800 − 375 + 225 =

3. 下面的计算对吗？（对的打“√”，错的打“×”，并改正）（每小题 3 分，共 9 分）

$\begin{array}{r} 354 \\ +\ 239 \\ \hline 583 \end{array}$ 改正：（　　）

$\begin{array}{r} 750 \\ -\ 324 \\ \hline 436 \end{array}$ 改正：（　　）

$\begin{array}{r} 704 \\ -\ 607 \\ \hline 103 \end{array}$ 改正：（　　）

姓名 学号 班级 学校

密 封 线

豆点提示：请不要在密封线内答题哦！

荣德基 荣誉出品 微信公众号 教辅资料站
关注微信公众号“教辅资料站”获取更多学习资料

4. 看图写算式。（每小题2分，共4分）

（1）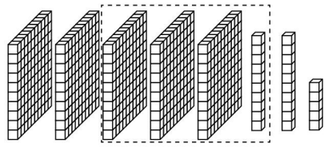

□○□=□

（2）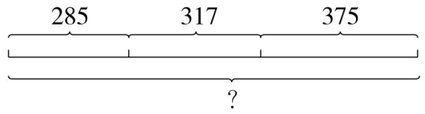

□○□○□=□

五、按要求做题。（第1题4分，第2题5分，共9分）

1. 彭爷爷大约带多少钱去缴费才够？在下面合适的钱数前面的□里画“√”。

□500元　□400元　□300元

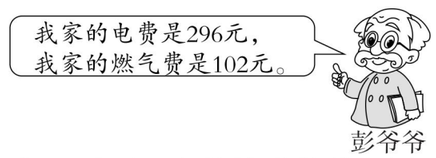

2. 已知某快递员一周内（周六、日休息）每天需要送出的快递件数相同，请完成下表。

每天已送快递（件）	230		530		630
每天剩下快递（件）	700	330		770	



我发现：_____

六、问题解决。（第4题9分，其余每题3分，共18分）

1. 三个同学的身高如图。（单位：cm）



2. 妈妈手机银行里有1000元钱，在网店买这两样物品，够不够？如果够，还剩多少钱？



3. 

王伯伯这两年一共收了多少千克苹果？

4. 12位客人。

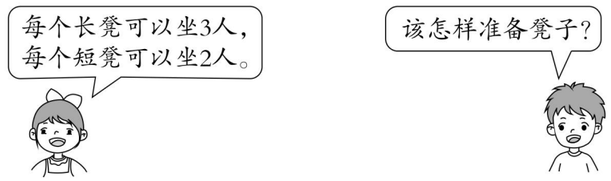

（1）都坐短凳，需要准备（　　）个。

（2）都坐长凳，需要准备（　　）个。

（3）两种凳子都坐，并且正好坐满，需要准备（　　）个长凳，（　　）个短凳。

附加题：（10分）

双语小学二年级279名同学参加文艺小组和科技小组。

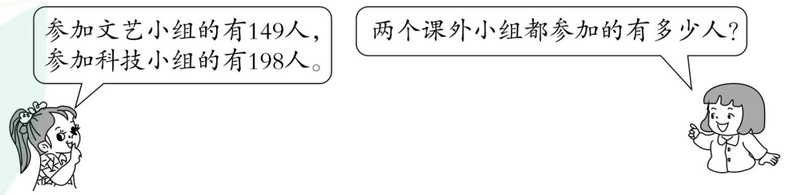

自己说说

老师点评

家长点评

荣德基好卷 品质教辅 微信公众号 教辅资料站
关注微信公众号“教辅资料站”获取更多学习资料

姓名 学号 班级 学校

密 封 线

豆点提示：请不要在密封线内答题哦！

期中 跟踪检测卷

时间：60 分钟　满分：100 分 +10 分

题号	一	二	三	四	五	附加题	总分
得分							

一、填空。（第 2 题 2 分，其余每空 1 分，共 35 分）

1. 一千里面有（　　）个一百，一百里面有（　　）个十。

2. 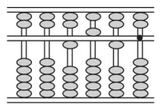 写作：（　　）
读作：（　　）

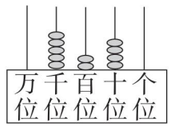

写作：（　　）
读作：（　　）

3. 由 5 个百，4 个十和 6 个一组成的数是（　　）；一个数的千位上是 8，个位上是 5，其余各位上都是 0，这个数是（　　），这个数是一个（　　）位数。

4. 在 696 ，702 ，720 ，699 中，（　　）最接近 700。

5. 最大的四位数比最大的三位数多（　　），599 后面的第一个数是（　　）。

6. 用 2，0，8，7 组成不同的四位数，最大的四位数是（　　），最小的四位数是（　　），零要读出来的四位数是（　　）（写出一个即可）。

7. 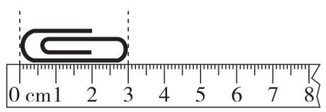

长（　　）cm

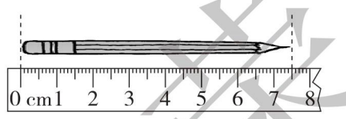

长（　　）mm

8. 在○里填上“ > ”“ < ”或“ = ”。

997 ○ 1082　　2381 ○ 3001　　3000 m ○ 3 km

4058 ○ 4049　　990 ○ 909　　6 米 ○ 600 分米

9. 5 km =（　　）m　　4000 m =（　　）km

8 cm =（　　）mm　　40 mm =（　　）cm

9 m =（　　）dm　　1 dm 3cm =（　　）cm

9 千米 − 7000 米 =（　　）米

3 厘米 5 毫米 + 41 厘米 5 毫米 =（　　）厘米

10. 按规律填数、字母或图形。

（1）9900，_____，7700，6600，_____。

（2）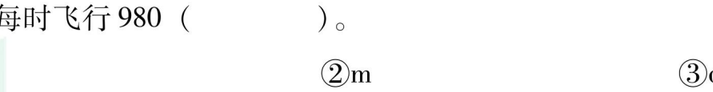，_____。

（3）A，B，A，A，B，A，A，A，B，_____。

（4）1，2，3，5，8，13，21，_____，_____。

二、判断。（对的打“√”，错的打“ × ”）（每题 2 分，共 10 分）

1. 2005 读作：二千零零五。（　　）

2. 算盘中的上珠和下珠都是一个珠子表示 1。（　　）

3. 一棵大树高 20 cm。（　　）

4. 读数要从个位开始读。（　　）

5. 比 470 多 90 的数是 380。（　　）

三、选择。（将正确答案的序号填在括号里）（每空 1 分，共 7 分）

1. 6006 读作（　　）。

①六千零零六　　②六零零六　　③六千零六

2. 1 把牙刷长约 16（　　）。

①dm　　②cm　　③mm

3. 飞机每时飞行 980（　　）。

①km　　②m　　③dm

4. 8 □ 27 > 8302，□ 里最小填（　　）。

①3　　②4　　③5

5. 最小的四位数减去（　　）就等于最小的三位数。

①1　　②999　　③900

6. 与 5098 相邻的两个数是（　　）和（　　）。

①5097　　②5096　　③5099

荣德基 荣誉出品 微信公众号 教辅资料站
关注微信公众号“教辅资料站”获取更多学习资料

四、计算。（共 24 分）

1. 直接写出得数。（每小题 0.5 分，共 6 分）

700 + 300 =	570 − 50 =	600 + 300 =	36 ÷ 4 =
480 − 80 =	800 − 90 =	1000 − 600 =	320 + 150 =
600 + 138 =	830 + 170 =	120 − 60 =	90 + 40 =

2. 竖式计算。（带 * 的要验算）（每小题 3 分，共 18 分）

* 465 + 237 =	* 402 − 157 =	375 + 96 =
600 − 326 =	189 + 511 =	748 + 252 =

五、问题解决。（每题 6 分，共 24 分）

1. 去图书馆。

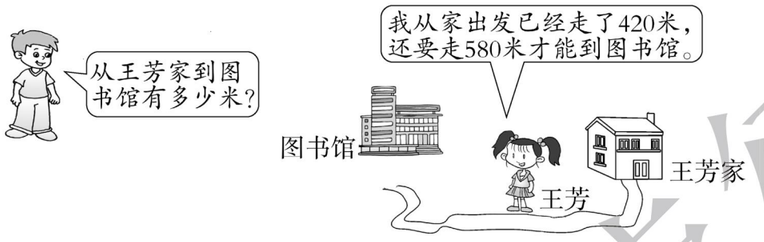

2. 养鸡专业大户李大伯养母鸡 903 只，养公鸡 696 只，养的公鸡比母鸡大约少多少只？

3. 下面是某小学一、二、三年级的学生人数统计情况。

年级	一	二	三
人数	196 人	210 人	

（1）三年级的学生人数比一、二年级学生的总人数少 245 人，三年级有多少人？

（2）如果学校的报告厅有 400 个座位，同时安排二、三年级的学生去听报告，座位够吗？

4. 小西一共有 48 元钱。

（1）只买每把 6 元的伞，可以买几把？


每把6元


每把8元

（2）只买每把 8 元的伞，可以买几把？

（3）两种都买，6 元的伞和 8 元的伞可以分别买几把？

附加题：（10 分）

在□里填上合适的数字。

$$\begin{array}{r} 1\square 6 \\ +\ \square 2\square \\ \hline 7\ 4\ 2 \end{array} \qquad \begin{array}{r} 9\square 3 \\ -\ \square 5\ 6 \\ \hline 3\ 6\square \end{array}$$

荣德基 品质教辅 微信公众号 教辅资料站
关注微信公众号“教辅资料站”获取更多学习资料

自己说说

老师点评

家长点评

密 封 线

参考答案及点拨（大卷）

第一单元跟踪检测卷

万以内数的认识

一、1. 7　千　4　一　5200

2. 7898　7900

3. 4805　四　千

4. 9009　九千零九

5. 3000　9999

6. 7　6　十　一　7648

7. （1）598　600　601　（2）2366　2356

8. <　<　=　>

9. 7030　7130

二、1. ×　2. √　3. ×　4. ×　5. ×

三、1. ③　2. ②　3. ③　4. ②

5. ①　[点拨] 这四个数分别是705、750、570、507。

四、

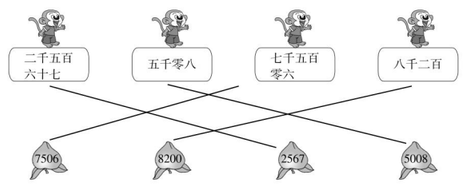

五、1. 九千六百七十五　八千四百五十

五千零二十三

2.

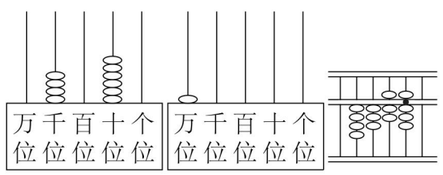

3. 5001　2304

4. 刘佳　姚东　吴萍　黄明

六、1.

100颗	200颗	400颗
	√	

2.

	2300元	800元	100元
床	√		
柜子		√	
椅子			√

3. （1）

三位数
486
879
998

四位数		
	1600	2005
	8942	7987

（2）①998　8942　②486　879

③8000　900　40　1000　600

（3）486 < 879 < 998 < 1600 < 2005 < 7987 < 8942

附加题：（1）9876　（2）1023　（3）9870

（4）1023

第二单元跟踪检测卷

千米的认识

一、1. 6　25　36

2. 1

3. km　mm

4. 1

5. 70　3　4　8000　800　1

6. >　>　<　=　=　>

7. 3000　1　9000　1

8. 50　5

[点拨] 彩带全长的一半是20 + 5 = 25（分米）。

二、1. ×　2. √　3. ×　4. ×　5. √

6. ×

三、1. ③　2. ③　3. ②　4. ①　5. ②

6. ③

四、分米　米　千米　厘米　毫米　毫米

五、1. （1）15　1　6　2　5

（2）1　2　8　3

2. （1）

（2）

3.

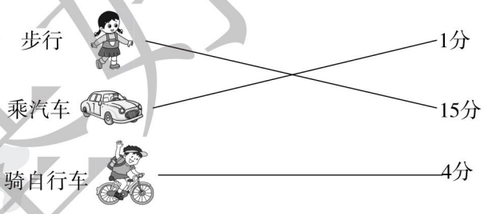

4. 100 mm < 30 cm < 17 dm < 20 m < 1 km

5. （1）

210 m	750 m	3 km
√		

（2）

1 km	2 km	3 km
△		

六、1. 55 − 52 = 3（km）

答：小文步行了3 km。

2. 4 + 1 = 5（km）　5 × 2 = 10（km）

答：兵兵每天上学往返的路程和是10 km。

[点拨] 先算出兵兵每天放学回家走的路程，再算出往返的路程和。

3. （1）学校

（2）250 + 750 = 1000（m）　1000 m = 1 km

答：最少要走1 km。

（3）略

附加题：甲瓶：90 − 50 = 40（mm）

乙瓶：85 − 47 = 38（mm）

40 − 38 = 2（mm）

答：甲瓶高，高2 mm。

[点拨] 先算出甲瓶和乙瓶各有多高，再算出高多少毫米。

第三单元跟踪检测卷

三位数的加减法

一、1. 600　760　700

2. 844　234

3. 989

4. 630

5. 1000　500　500

6. 715 + 285　373 + 427　830 − 385

700 − 435

7. 899　0

[点拨] 三位数最大是999，差最大是999 − 100 = 899，三位数最小是100，差最小是100 − 100 = 0。

8. 756

9. （1）7

（2）5 + 7 = 12

（3）△

关注微信公众号“教辅资料站”获取更多学习资料

二、1. × 2. √ 3. × 4. × 5. √

6. ×

三、1. ② 2. ③ 3. ③ 4. ③ 5. ③

四、1. 200 1000 530 670 9 40

2. 523 − 459 = 64　547 + 96 = 643

$$\begin{array}{r} 523 \\ -\ 459 \\ \hline 64 \end{array} \qquad \begin{array}{r} 547 \\ +\ 96 \\ \hline 643 \end{array}$$

501 − 497 = 4

$$\begin{array}{r} 501 \\ -\ 497 \\ \hline 4 \end{array}$$

397 + 405 = 802

$$\begin{array}{r} 397 \\ +\ 405 \\ \hline 802 \end{array}$$ 验算： $$\begin{array}{r} 405 \\ +\ 397 \\ \hline 802 \end{array}$$

700 − 494 = 206

$$\begin{array}{r} 700 \\ -\ 494 \\ \hline 206 \end{array}$$ 验算： $$\begin{array}{r} 206 \\ +\ 494 \\ \hline 700 \end{array}$$

800 − 375 + 225 = 650

$$\begin{array}{r} 800 \\ -\ 375 \\ \hline 425 \end{array} \qquad \begin{array}{r} 425 \\ +\ 225 \\ \hline 650 \end{array}$$

3. × 改正：$$\begin{array}{r} 354 \\ +\ 239 \\ \hline 593 \end{array}$$

× 改正：$$\begin{array}{r} 750 \\ -\ 324 \\ \hline 426 \end{array}$$

× 改正：$$\begin{array}{r} 704 \\ -\ 607 \\ \hline 97 \end{array}$$

4. （1）525 − 310 = 215

（2）285 + 317 + 375 = 977

五、1. √ 400 元

2. 600 160 400 300

每天已送快递的件数 + 每天剩下快递的件数 = 930 件

六、1. 110 − 15 = 95（cm）

95 + 35 = 130（cm）

答：李阳的身高是 95 cm。徐锐的身高是 130 cm。

2. 1000 − 680 = 320（元）

320 − 260 = 60（元）

或 680 + 260 = 940（元）

1000 − 940 = 60（元）

答：在网店买这两样物品够，还剩 60 元。

3. 315 + 170 = 485（kg）　315 + 485 = 800（kg）

答：王伯伯这两年一共收了 800 kg 苹果。

4. （1）6 （2）4 （3）2 3

附加题：149 + 198 = 347（人）

347 − 279 = 68（人）

答：两个课外小组都参加的有 68 人。

［点拨］先算出文艺小组和科技小组的总人数，然后减去二年级的人数，即可求解。

期中跟踪检测卷

一、1. 10 10

2. 1510 一千五百一十 5240 五千二百四十

3. 546 8005 四

4. 699

5. 9000 600

6. 8720 2078 2807（最后一空答案不唯一）

7. 3 75

8. < < = > > <

9. 5000 4 80 4 90 13 2000 45

10. （1）8800 5500

（2）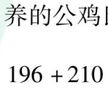

（3）A

（4）34 55

二、1. × 2. × 3. × 4. × 5. ×

三、1. ③ 2. ② 3. ① 4. ① 5. ③

6. ① ③

四、1. 1000 520 900 9 400 710 400 470 738 1000 60 130

2. 702 245 471 274 700 1000（竖式及验算略）

五、1. 420 + 580 = 1000（米）

答：从王芳家到图书馆有 1000 米。

2. 900 − 700 = 200（只）

答：养的公鸡比母鸡大约少 200 只。

3. （1）196 + 210 = 406（人）

406 − 245 = 161（人）

答：三年级有 161 人。

（2）210 + 161 = 371（人） 371 < 400

答：座位够。

4. （1）48 ÷ 6 = 8（把）

答：可以买 8 把。

（2）48 ÷ 8 = 6（把）

答：可以买 6 把。

（3）48 = 24 + 24　24 ÷ 6 = 4（把）

24 ÷ 8 = 3（把）

答：6 元的伞可以买 4 把，8 元的伞可以买 3 把。

附加题：

$$\begin{array}{r} 1\,\boxed{1}\,6 \\ +\,\boxed{6}\,2\,\boxed{6} \\ \hline 7\,4\,2 \end{array} \qquad \begin{array}{r} 9\,\boxed{2}\,3 \\ -\,\boxed{5}\,5\,6 \\ \hline 3\,6\,\boxed{7} \end{array}$$

第四单元跟踪检测卷

认识图形

一、1. 长方 正方

2. 长方 正方 正方形

3. 4

4. （1）3 6 （2）正方 2

（3）长方 2 1

二、1. × 2. √ 3. × 4. × 5. √

6. ×

三、1. ③ 2. ③ 3. ② 4. ①

四、1. ①⑦⑪ 正方形；③⑥⑩⑬ 长方形；⑤⑧⑨⑫ 平行四边形

2. （1）图略

关注微信公众号“教辅资料站”获取更多学习资料

（2）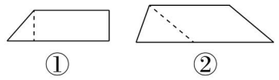

［点拨］②答案不唯一。

3. （1）①　③　（2）②　④

4. 涂色略

5. 3　1　2　3　2

6. （1）5　1　（2）6

五、1. 6×4＝24（m）

答：4 条边共长 24 m。

2. （1）4

（2）长方　8　4

（3）2

［点拨］以长方形的宽为正方形的边长，即可求解。

附加题：6　5　8

第五单元跟踪检测卷

有余数的除法

一、1. 除以　5　4　被除数　除数　商　余数

2. 5

3. 5　1

4. 7　1

5. 5

6. 9　9　6　7　4　5

7. 39　36

8. 39÷7＝5……4　52÷8＝6……4

［点拨］答案不唯一，符合条件即可。

9. 44　5　8

二、1. √　2. ×　3. ×　4. ×　5. √

6. ×

三、1. ②　2. ③　3. ③　4. ②　5. ②

6. ①

四、1. 5　2……1　42　6……1　7……1

8　0　9

2. 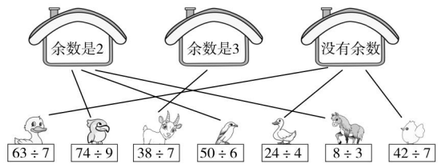

3. 51÷7＝7……2　33÷7＝4……5

$$\begin{array}{r} 7 \\ 7\overline{)5\ 1} \\ 4\ 9 \\ \hline 2 \end{array} \qquad \begin{array}{r} 4 \\ 7\overline{)3\ 3} \\ 2\ 8 \\ \hline 5 \end{array}$$

69÷8＝8……5　56÷7＝8

$$\begin{array}{r} 8 \\ 8\overline{)6\ 9} \\ 6\ 4 \\ \hline 5 \end{array} \qquad \begin{array}{r} 8 \\ 7\overline{)5\ 6} \\ 5\ 6 \\ \hline 0 \end{array}$$

47÷9＝5……2　24÷9＝2……6

$$\begin{array}{r} 5 \\ 9\overline{)4\ 7} \\ 4\ 5 \\ \hline 2 \end{array} \qquad \begin{array}{r} 2 \\ 9\overline{)2\ 4} \\ 1\ 8 \\ \hline 6 \end{array}$$

4. ×　改正：$\begin{array}{r} 4 \\ 8\overline{)3\ 9} \\ 3\ 2 \\ \hline 7 \end{array}$　×　改正：$\begin{array}{r} 8 \\ 8\overline{)6\ 5} \\ 6\ 4 \\ \hline 1 \end{array}$

×　改正：$\begin{array}{r} 5 \\ 7\overline{)3\ 6} \\ 3\ 5 \\ \hline 1 \end{array}$　×　改正：$\begin{array}{r} 8 \\ 9\overline{)7\ 4} \\ 7\ 2 \\ \hline 2 \end{array}$

五、1. 31÷9＝3（张）……4（元）

答：可以买 3 张成人票，还剩 4 元。

21÷5＝4（张）……1（元）

答：可以买 4 张儿童票，还剩 1 元。

2. 47÷5＝9（箱）……2（箱）

答：至少留下 2 箱暂时不送。

3. 13÷4＝3（行）……1（辆）

答：这些单车可以摆放成 3 行，最后有 1 辆被推到别的地方去了。

4. 20＋18＝38（名）

38÷4＝9（条）……2（人）

9＋1＝10（条）

答：至少需要 10 条船。

4×8＝32（人）　38－32＝6（人）

答：有 6 人不能上船。

附加题：□＝5　△＝7　☆＝2

第六、七单元跟踪检测卷

时、分、秒　收集与整理

一、1. 时　分　秒

2. 20

3. 10

4. 12　12

5. 30

6. 下午 1

7. 2　100　180　1　6　130　6　1　20

8. （1）①三　6　3　6

②两　7　8

（2）15　45

9. 分　秒　分　时　时　分

10. ＞　＞　＝　＜　＝　＜

二、1. ×　2. √　3. √　4. ×　5. ×

三、1. ②　2. ②　3. ③　4. ①　5. ②

四、1. 7：30　7：05　2：50　3：55

7　30　7　5　3　10　3　4

2. （1）7　8　5　5

（2）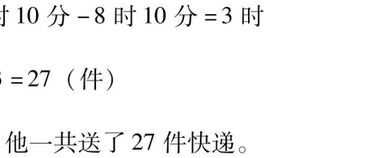

（3）25

五、1. 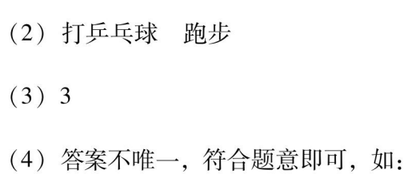

2. 兔子　老虎

3. 8　30　55

六、1. 7 时 20 分＋2 时 30 分＝9 时 50 分

答：爷爷回家时是 9 时 50 分。

2. 8 时－15 分＝7 时 45 分

答：最晚要在早上 7 时 45 分从家里出发。

3. 11 时 10 分－8 时 10 分＝3 时

9×3＝27（件）

答：他一共送了 27 件快递。

4. （1）7　8　4　10　15

（2）打乒乓球　跑步

（3）3

（4）答案不唯一，符合题意即可，如：喜

关注微信公众号“教辅资料站”获取更多学习资料

欢跳绳的和喜欢打乒乓球的一共有多少人?

10 + 15 = 25（人）

答：喜欢跳绳的和喜欢打乒乓球的一共有 25 人。

附加题：12 时 − 8 时 30 分 = 3 时 30 分

3 时 30 分 + 6 时 30 分 = 10 时

答：妈妈从上班到下班相隔了 10 时。

[点拨] 先算出妈妈上午上班的时间，再加上下午上班的时间，即可求解。

期末总复习

模块过关卷（一）

数与代数　统计

一、1. 5040　五千零四十　5264

五千二百六十四

2. 四　千　4698　4700

3. 6

4. 95　240　2　10

5. 2006　2600　6200　6002　6020　2006

2060

6. 9　5　6

7. （1）5578 < 5599 < 5700 < 6080 < 6104

（2）3 分 50 秒 < 300 秒 < 3 时 < 300 分

8. （1）2100　2110　（2）12　8

二、1. ×　2. ×　3. ×　4. √　5. ×

三、1. ③　2. ③　3. ①　4. ②

四、1. 700　1000　100　7……1　50　4……1

2. 62 ÷ 9 = 6……8　　573 + 227 = 800

```
      6                5 7 3
   9⌠6 2              + 2 2 7
    5 4               -------
    ---               8 0 0
      8
```

903 − 507 = 396

```
  9 0 3
- 5 0 7
-------
  3 9 6
```

346 + 587 = 933

```
  3 4 6        5 8 7
+ 5 8 7      + 3 4 6
-------      -------
  9 3 3        9 3 3
```

验算：

700 − 299 = 401

```
  7 0 0        4 0 1
- 2 9 9      + 2 9 9
-------      -------
  4 0 1        7 0 0
```

验算：

428 − 219 + 357 = 566

```
  4 2 8        2 0 9
- 2 1 9      + 3 5 7
-------      -------
  2 0 9        5 6 6
```

3.

```
  1 2 3        2 5 7
+ 3 6 9      + 5 9 6
-------      -------
  4 9 2        8 5 3

  9 2 3        2 8 5
- 4 5 7      - 1 8 8
-------      -------
  4 6 6        9 7
```

五、1.（1）3　16　15　4　3　1

（2）

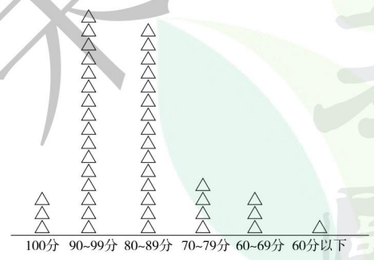

（3）42　90 ~ 99　60 分以下

2.



5：05　3时35分　11：30　7时差5分

六、1. 467 − 68 = 399（个）

答：李师傅已经做了 399 个零件。

2. 500 + 280 = 780（台）

780 − 320 = 460（台）

答：卖了 460 台。

3.（1）1000 件（√）

（2）499 − 202 = 297（件）

297 − 295 = 2（件）或

202 + 295 = 497（件）

499 − 497 = 2（件）

答：申通快递的快递量比顺丰快递和韵达快递的总快递量还多 2 件。

（3）295 − 202 = 93（件）

答：顺丰快递还差 93 件快递就和韵达快递同样多。

附加题：24 ÷ 8 = 3（元）　16 ÷ 4 = 4（元）

3 元 < 4 元　所以尽量租小客车。

5 × 8 = 40（人）

1 × 4 = 4（人）

40 + 4 = 44（人）

答：租 5 辆小客车和 1 辆出租车最便宜。

[点拨] 因为 3 元 < 4 元，所以租小客车比租出租车便宜些，故应尽量租小客车，而且没有空座位最好。

期末总复习

模块过关卷（二）

图形与几何

一、1.

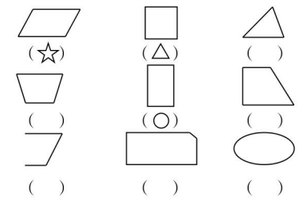

2. 5000　45　3

3. >　=　>　<　>　<

4. cm　m　dm

5. 35 毫米　5 厘米　2

6. ④　①　⑥　⑤　三角

7.（1）□ ▱▱▱▱

（2）△ ○ □ ▲ ● ▱

二、1. ×　2. ×　3. ×　4. ×　5. ×

三、1. ③　2. ①　3. ①　4. ②　5. ③

四、1. 15　3　1　4　2

2. 4　5　1　2

3.（1）略

（2）

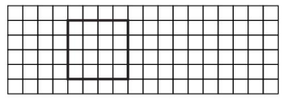

（3）

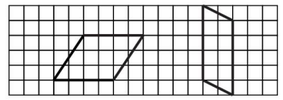

（4）（答案不唯一）

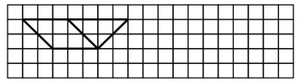

4.（1）

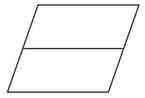

荣德基 品质教辅 微信公众号 教辅资料站

关注微信公众号“教辅资料站”获取更多学习资料

（2）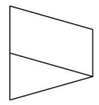 或 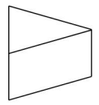

五、100　10　4　1000　600　6　7000　（第3、4个空答案不唯一）

六、1. 2 km = 2000 m

2000 + 200 = 2200（m）

答：她家离学校有2200 m远。

2. 10 cm 5 mm = 105 mm

8cm 7mm = 87 mm　105 mm > 87 mm

105 − 87 = 18（mm）

答：第一件快递厚，厚18 mm。

3.（1）3 + 3 = 6（千米）

6 × 2 = 12（千米）

答：来回要走12千米。

（2）4 + 7 = 11（千米）

4 + 6 = 10（千米）

3 + 3 + 6 = 12（千米）

10千米 < 11千米 < 12千米

答：文文从家出发经图书馆，再到动物园，这条路最近。最近是10千米。

附加题：14　22

[点拨] 数图形的个数时，要按一定的顺序，边数边做标记，才能不重复不遗漏。

期末总复习

仿真模拟卷（一）

一、1. 9　3　7

2. 998　1000

3. 7070　七千零七十

4. 180　4　95　4　600　37　6000

5. 毫米　秒　厘米　米

6. 5

7. 5　6　3

8. 6

9.（1）24　20

（2）△○○○

10. 7

11. 2　1

二、1. ×　2. √　3. ×　4. ×　5. ×

三、1. ③　2. ③　3. ②　4. ①　5. ①

四、1. 1000　70　40　7　570　5……3

2. 306 + 498 = 804　300 − 246 = 54

$$\begin{array}{r} 3\,0\,6 \\ +\,4\,9\,8 \\ \hline 8\,0\,4 \end{array} \qquad \begin{array}{r} 3\,\dot{0}\,0 \\ -\,2\,4\,6 \\ \hline 5\,4 \end{array}$$

67 ÷ 7 = 9……4

$$\begin{array}{r} 9 \\ 7\overline{)\,6\,7} \\ 6\,3 \\ \hline 4 \end{array}$$

567 + 178 = 745

$$\begin{array}{r} 5\,6\,7 \\ +\,1\,7\,8 \\ \hline 7\,4\,5 \end{array}$$ 验算： $$\begin{array}{r} 1\,7\,8 \\ +\,5\,6\,7 \\ \hline 7\,4\,5 \end{array}$$

806 − 499 = 307

$$\begin{array}{r} \dot{8}\,\dot{0}\,6 \\ -\,4\,9\,9 \\ \hline 3\,0\,7 \end{array}$$ 验算： $$\begin{array}{r} 3\,0\,7 \\ +\,4\,9\,9 \\ \hline 8\,0\,6 \end{array}$$

414 + 493 − 719 = 188

$$\begin{array}{r} 4\,1\,4 \\ +\,4\,9\,3 \\ \hline 9\,0\,7 \end{array} \qquad \begin{array}{r} \dot{9}\,\dot{0}\,7 \\ -\,7\,1\,9 \\ \hline 1\,8\,8 \end{array}$$

五、1. 略

2. ①

颜色	白色	黑色
个数（个）	16	10

②

形状	长方形	正方形	三角形	圆
个数（个）	5	1	12	7

（2）

六、1. 48 ÷ 9 = 5（层）……3（件）

答：需放5层，还剩3件。

2. 2:15 + 40分 = 2:55

答：航模比赛是下午2:55结束的。

3. 396 + 157 = 553（元）

396 + 553 = 949（元）

答：买一件毛衣和一件羽绒服一共需要949元。

4.（1）358 + 289 = 647（km）

647 + 78 = 725（km）

答：一共行驶了725 km。

（2）289 + 78 = 367（km）

367 − 358 = 9（km）

答：从乙地到甲地的路程比从乙地经丙地到丁地的路程少9 km。

附加题：68 + 53 = 121（只）

黑山羊：121 − 95 = 26（只）

白山羊：68 − 26 = 42（只）

灰山羊：53 − 26 = 27（只）

答：黑山羊有26只，白山羊有42只，灰山羊有27只。

[点拨] 从黑山羊和白山羊一共有68只，黑山羊和灰山羊一共有53只这两条信息中发现：两条信息都有黑山羊，所以将68和53相加后，再减去山羊的总只数，就是黑山羊的只数，即可求解。

期末总复习

仿真模拟卷（二）

一、1. 2134　2001　3030

2. 3

3. 30000　23　87　180　50　5

4. 896　897

5. 8620　2068

6. >　<　>　>　=　>

7. 4050　四千零五十

荣德基 微信公众号 教辅资料站
关注微信公众号“教辅资料站”获取更多学习资料

8．（1）2970　3070　（2）4　25

［点拨］其规律是：第一个数是1，2，3，4，…，第二个数是1×1，2×2，3×3，4×4，…。

（3）△

9．900

10．9　5　5

11．7　50

二、1．×　2．×　3．×　4．√　5．×

6．×　［点拨］在有余数的除法中，余数只能小于除数。

三、1．①　2．③　3．③　4．②　5．②

6．①

四、1．48　230　8……7　628　1000　4

2．257＋398＝655

$$\begin{array}{r} 2\ 5\ 7 \\ +3\ 9\ 8 \\ \hline 6\ 5\ 5 \end{array}$$ 验算：$$\begin{array}{r} 3\ 9\ 8 \\ +2\ 5\ 7 \\ \hline 6\ 5\ 5 \end{array}$$

486－187＝299

$$\begin{array}{r} 4\ 8\ 6 \\ -1\ 8\ 7 \\ \hline 2\ 9\ 9 \end{array}$$ 验算：$$\begin{array}{r} 2\ 9\ 9 \\ +1\ 8\ 7 \\ \hline 4\ 8\ 6 \end{array}$$

500－356＝144　$$\begin{array}{r} 5\ 0\ 0 \\ -3\ 5\ 6 \\ \hline 1\ 4\ 4 \end{array}$$

265＋335＝600　$$\begin{array}{r} 2\ 6\ 5 \\ +3\ 3\ 5 \\ \hline 6\ 0\ 0 \end{array}$$

80÷9＝8……8　$$\begin{array}{r} 8 \\ 9\overline{)8\ 0} \\ 7\ 2 \\ \hline 8 \end{array}$$

747＋96＝843　$$\begin{array}{r} 7\ 4\ 7 \\ +\ 9\ 6 \\ \hline 8\ 4\ 3 \end{array}$$

五、1．



2．略

六、1．5米＝50分米

50÷8＝6（件）……2（分米）

答：能包装6件快递，还剩2分米。

2．236－78＝158（棵）

236＋158＝394（棵）

答：两个班一共浇了394棵。

3．980－434＝546（kg）

546－256＝290（kg）

答：下午用了290 kg。

4．（1）略

（2）电冰箱　洗衣机

（3）538＋223＋239＝1000（元）

答：这一天该网店共赢利1000元。

（4）略

附加题：320－170＝150（克）

水：150＋150＝300（克）

瓶子：320－300＝20（克）

答：水重300克，瓶子重20克。

［点拨］将水和瓶子的总质量减去倒出一半水后水连瓶子的质量就是水的质量的一半，于是可求出水的质量。

期末总复习

仿真模拟卷（三）

一、1．一千零七　1　一

2．2000　90

3．①　③⑤　②④

4．cm　mm　dm　km

5．>　<　<　>　=　<

6．7520　2057

7．小丁　小林　小刚　小军

8．6　35

9．白　［点拨］38÷5＝7（组）……3（个），所以第38个珠子是白色的。

10．49　147　65　［点拨］本月使用数等于本月底的读数减去上月底的读数。

二、1．×　2．×　3．√　4．×　5．√

三、1．③　2．②　3．②　4．②　5．①

四、1．700　500　30　400　55　6……2

2．349＋458＝807　$$\begin{array}{r} 3\ 4\ 9 \\ +4\ 5\ 8 \\ \hline 8\ 0\ 7 \end{array}$$

713－409＝304　$$\begin{array}{r} 7\ 1\ 3 \\ -\ 4\ 0\ 9 \\ \hline 3\ 0\ 4 \end{array}$$

78÷9＝8……6　$$\begin{array}{r} 8 \\ 9\overline{)7\ 8} \\ 7\ 2 \\ \hline 6 \end{array}$$

500－246＝254　$$\begin{array}{r} 5\ 0\ 0 \\ -\ 2\ 4\ 6 \\ \hline 2\ 5\ 4 \end{array}$$

413－348＝65

$$\begin{array}{r} 4\ 1\ 3 \\ -\ 3\ 4\ 8 \\ \hline 6\ 5 \end{array}$$ 验算：$$\begin{array}{r} 6\ 5 \\ +3\ 4\ 8 \\ \hline 4\ 1\ 3 \end{array}$$

675＋228＝903

$$\begin{array}{r} 6\ 7\ 5 \\ +2\ 2\ 8 \\ \hline 9\ 0\ 3 \end{array}$$ 验算：$$\begin{array}{r} 2\ 2\ 8 \\ +6\ 7\ 5 \\ \hline 9\ 0\ 3 \end{array}$$

700－143＋96＝653

$$\begin{array}{r} 7\ 0\ 0 \\ -\ 1\ 4\ 3 \\ \hline 5\ 5\ 7 \end{array}$$　$$\begin{array}{r} 5\ 5\ 7 \\ +\ \ 9\ 6 \\ \hline 6\ 5\ 3 \end{array}$$

457＋276－689＝44

$$\begin{array}{r} 4\ 5\ 7 \\ +2\ 7\ 6 \\ \hline 7\ 3\ 3 \end{array}$$　$$\begin{array}{r} 7\ 3\ 3 \\ -\ 6\ 8\ 9 \\ \hline 4\ 4 \end{array}$$

734－189－357＝188

$$\begin{array}{r} 7\ 3\ 4 \\ -\ 1\ 8\ 9 \\ \hline 5\ 4\ 5 \end{array}$$　$$\begin{array}{r} 5\ 4\ 5 \\ -\ 3\ 5\ 7 \\ \hline 1\ 8\ 8 \end{array}$$

五、1．

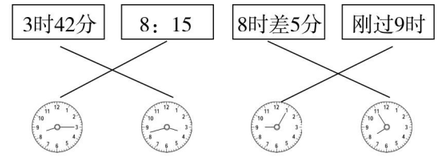

2．（1）二（4）班一周阅读课外读物情况统计图

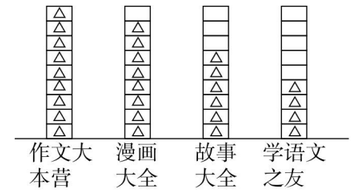

（2）9＋8＋6＋4＝27（册）

答：二（4）班一周一共阅读了27册课外读物。

六、1．185＋225＝410（袋）

512－410＝102（袋）或

512－185＝327（袋）

327－225＝102（袋）

答：工地上还有102袋水泥。

2．50÷6＝8（件）……2（颗）

答：能钉8件上衣，还剩2颗。

3．457＋243＝700（本）

700－375＝325（本）

答：故事书有325本。

附加题：700－300＝400（元）

衬衣：400÷2＝200（元）

裤子：300－200＝100（元）

答：1条裤子100元钱，1件衬衣200元钱。

［点拨］3件衬衣和1条裤子的钱减去1件衬衣和1条裤子的钱，就是2件衬衣的钱，即可求出1件衬衣的钱。

荣德基好卷 微信公众号 教辅资料站
关注微信公众号“教辅资料站”获取更多学习资料

桃李 德四方学人
荣德基 主编

小卷：周测卷·专项卷



01 周测培优卷（9套）

02 专项能力提升卷（12套）

2年级 数学 下

（XS版）

赠送 ZENG SONG

荣德基
微信公众号
教辅资料站
关注微信公众号“教辅资料站”获取更多学习资料



目录

周测培优卷

数数、写数、读数 …… 01

大小比较、较大数的估计、认识算盘 …… 03

千米、毫米的认识和简单的单位换算 …… 05

整十、整百数的加减、三位数的加法 …… 07

三位数的减法、探索规律和问题解决 …… 09

长方形、正方形的特征和平行四边形的认识 …… 11

认识除法算式和有余数的除法 …… 13

时、分、秒和问题解决 …… 15

分类、整理数据，认识图形，统计图和统计表 …… 17

专项能力提升卷

计数单位的认识、含0的数的写、读规则 …… 19

三位数的连续进位加法和退位减法的计算及应用 …… 21

有余数的除法计算及应用 …… 23

时、分、秒的换算及经过时间的计算方法 …… 25

常考易错题 …… 27

填空题 …… 29

选择题 …… 31

计算题(一) …… 33

计算题(二) …… 35

图形题 …… 37

应用题(一) …… 39

应用题(二) …… 41

参考答案及点拨 …… 43

荣德基好卷

微信公众号

教辅资料站

关注微信公众号“教辅资料站”获取更多学习资料



周测培优卷1

数数、写数、读数

班级_____ 姓名_____ 得分_____ 时间：40分钟 满分：100分

一、填空。（每空1分，共32分）

1. （　　）个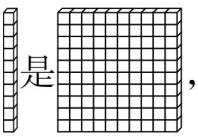是，（　　）个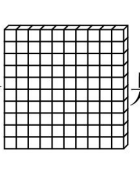是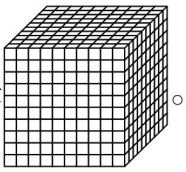。

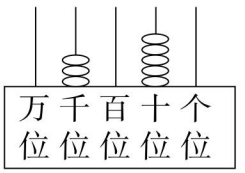

2. 如右图，（　　）个千和（　　）个十组成的数是（　　）。

3. 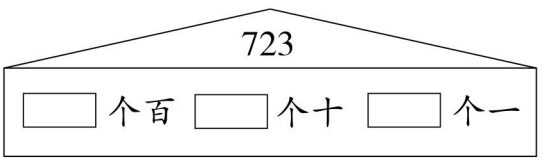



4. 一个五位数从右边起，第（　　）位是百位，第五位是（　　）位。

5. （1）一个数由9个千和4个一组成，这个数写作：（　　）。

（2）千位和十位上是9，其余各位上是0的数写作：（　　），读作：（　　）。

（3）一个四位数，最高位上是8，最低位上是4，其余两位上是0，这个数写作：（　　），读作：（　　）

6. 7200是（　　）位数，最高位是（　　）位。

7. 3560中的“3”在（　　）位上，表示3个（　　），“6”在（　　）位上，表示6个（　　）。

8. 最小的四位数与最大的三位数相差（　　）。

9. 按规律填数。

（1）489、（　　）、（　　）、492、（　　）、（　　）。

（2）3270、3280、（　　）、（　　）、3310、3320、（　　）。

二、判断。（每题3分，共18分）

1. 二千二百二十二中的4个二所表示的意义相同。（　　）
2. 在计数器上拨四千时，要在千位上拨4个珠子。（　　）
3. 写数时，哪个数位上一个计数单位也没有，就可以不写。（　　）
4. 7005读作：七千零零五。（　　）
5. 一万比九千多一千。（　　）
6. 读数和写数都从低位起。（　　）

荣德基好卷
微信公众号 教辅资料站
关注微信公众号“教辅资料站”获取更多学习资料

三、写一写，读一读，连一连。（共50分）

1. 看图写数，读数。（12分）

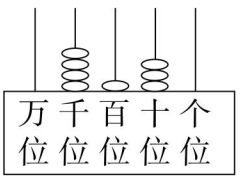

写作：（　　）

读作：（　　）

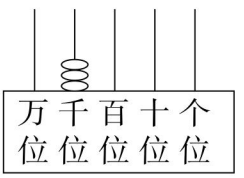

写作：（　　）

读作：（　　）

千	百	十	个
∴	∴		∴

写作：（　　）

读作：（　　）

2. 写一写。（从小到大）（8分）





3. 连一连。（16分）

2个千，3个十	2157	二千七百
2个千，2个一	2002	二千零三十
2个千，7个百	2700	二千一百五十七
2个千，1个百，5个十，7个一	2030	二千零二

4. 读、写横线上的数。（6分）

（1）一列动车每分行驶4000米。读作：（　　）

（2）某公司平均每月收发电子邮件一千零九件。写作：（　　）

（3）亚洲第一长河全长约六千三百九十七千米。写作：（　　）

5. 按要求把7，3，0，0组成四位数。（各写一个）（8分）

（1）1个零也不读。

写作：_____

读作：_____

（2）只读1个零。

写作：_____

读作：_____

荣德基好卷
微信公众号
教辅资料站
好卷

关注微信公众号“教辅资料站”获取更多学习资料



周测培优卷2

大小比较、较大数的估计、认识算盘

班级_____ 姓名_____ 得分_____ 时间：40分钟 满分：100分

一、填空。（每空2分，共52分）

1. 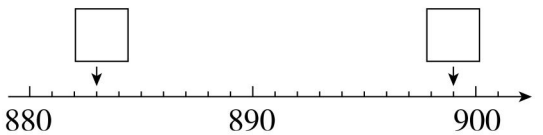

2. 小于8000且大于5000的整千数有（　　）。

3. 684是一个（　　）位数，6084是一个（　　）位数，这两个数相比（　　）大。

4. 找邻居。



5. 一个两位数加上1就是三位数，这个两位数是（　　）。

6. 在□里填上合适的数字。

59□<596　　11□9<1199　　23□>236　　5157>51□7

7. 在○里填上“>”或“<”。

300○500　　4281○281　　1001○999

4215○4251　　756○746　　6345○5999

8. 一层楼的高度大约是3 m，莫浩然所住小区一幢楼有32层，这幢楼的高度大约是（　　）m。

二、选择。（将正确答案的序号填在括号里）（每题3分，共12分）

1. 一个四位数，它的最高位是（　　）。

①百位　　②千位　　③万位

2. 下面最接近5000的数是（　　）。

①5675　　②5099　　③4998

3. 与7289相邻的后面的数是（　　）。

①7290　　②7280　　③7288

4. 下面各数中，比8060大的数是（　　）。

①8600　　②8006　　③8059

荣德基好卷
微信公众号 教辅资料站

关注微信公众号“教辅资料站”获取更多学习资料

三、先画一画，再比较。（8分）

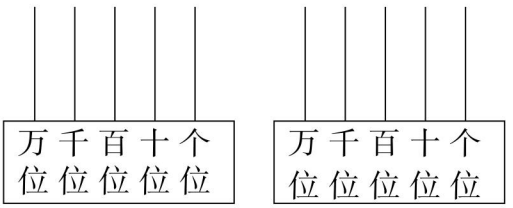

4203 ◯ 3506

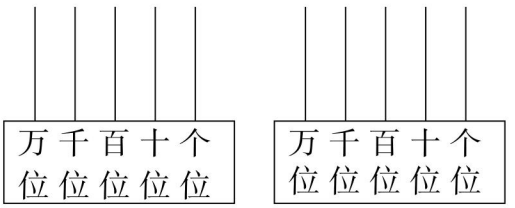

431 ◯ 550

四、比一比。（共18分）

1. 排队。（10分）



□ > □ > □ > □ > □

2. 选择合适的数，把序号填在（　　）里。（8分）

（1）



（　　）　（　　）

①3357　②2999

（2）



（　　）　（　　）

①899　②1003

五、问题解决。（第1题4分，第2题6分，共10分）

1. 某网店元旦进行抽奖活动，想一想，哪个数是获奖号码？画上“√”。



获奖号码大于6000，小于7000，接近6500。

□ 5970　□ 6002

□ 6407　□ 6950

2.



我们比灰兔少一些。

白兔



我们比灰兔多得多。

黑兔



我们有1326只。

灰兔

白兔有多少只？（请在下表中画♡）

1326只	1770只	1300只

黑兔有多少只？（请在下表中画☆）

1348只	2770只	1300只

来德基好卷
好卷

关注微信公众号“教辅资料站”获取更多学习资料



周测培优卷3

千米、毫米的认识和简单的单位换算

班级_____ 姓名_____ 得分_____ 时间：40分钟 满分：100分

一、填空。（每空2分，共32分）

1. 5 km = （　　）m　　8000 m = （　　）km　　6 dm = （　　）mm

   10 km = （　　）m　　1 m − 2 dm = （　　）dm

   6 cm + 4 cm = （　　）cm = （　　）dm

   54 mm + 46 mm = （　　）mm = （　　）cm = （　　）dm

2. 在◯里填上“ > ”“ < ”或“ = ”。

   6 cm ◯ 60 mm　　500 cm ◯ 50 km　　5000 mm ◯ 5 m

   20 cm ◯ 30 mm　　1 m ◯ 100 cm　　85 mm ◯ 8 cm

二、判断。（对的打“√”，错的打“×”）（每题2分，共10分）

1. 950米比1千米长得多。（　　）
2. 一支铅笔长8毫米。（　　）
3. 北京到广州的铁路约长2310米。（　　）
4. 4000 mm = 4 m。（　　）
5. 一座大桥长1300 km。（　　）

三、选择。（将正确答案的序号填在括号里）（每题3分，共15分）

1. 我们学校的旗杆高（　　）。

   ①100 dm　　②100 mm　　③100 cm

2. 爸爸的身高是168（　　）。

   ①dm　　②m　　③cm

3. 下面（　　）和5000米相等。

   ①500分米　　②5千米　　③50000厘米

4. 在1 km，2500 mm，300 m这三个长度中，最长的是（　　）。

   ①1 km　　②2500 mm　　③300 m

5. 1千米大约有多长？（　　）

   ①从1楼到20楼　　②10条100米跑道　　③1间教室的长

关注微信公众号“教辅资料站”获取更多学习资料

四、按要求完成下面各题。（共 25 分）

1. 画一条长 34 mm 的线段。（3 分）

2. 量好后，再填写。（4 分）

（　　）cm



（　　）cm

3. 按从长到短的顺序排列。（10 分）

5 mm　　5 dm　　5 km　　5 m　　5 cm

（　　）>（　　）>（　　）>（　　）>（　　）

4. 连一连。（8 分）



长14

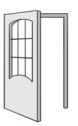

高约2

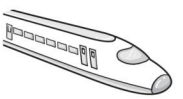

每小时行驶是2



高约4

km　　mm　　cm　　dm　　m



厚约2



高约9



全程约1200



每小时飞行约480

五、问题解决。（第 3 题 8 分，其余每题 5 分，共 18 分）

1. 1 支铅笔用去 8 cm，还剩 10 cm。



2. 做 9 根跳绳够不够？



长 19 米



一根跳绳长 2 米

3. 从洋洋家经过图书馆到园博园的路程是多少？

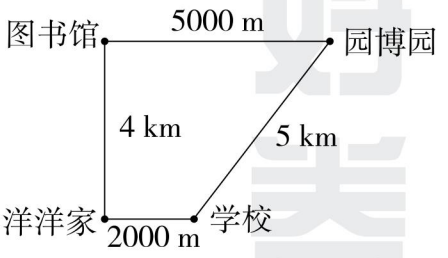

荣德基好卷

关注微信公众号“教辅资料站”获取更多学习资料



周测培优卷4

整十、整百数的加减、三位数的加法

班级_____ 姓名_____ 得分_____ 时间：40分钟 满分：100分

一、填空。（每空2分，共32分）

1. 比320多250的数是（　　），400比900少（　　）。

2. 在（　　）里填上适当的数。

70 +（　　）=470　　（　　）−400=90　　740 −（　　）=40

（　　）−70=300　　（　　）+250=300　　630 −（　　）=600

3. 在◯里填上“>”“<”或“=”。

3700 −600 ◯ 3700 −400　　630 +80 ◯ 800 −80

2500 −300 ◯ 2400 −300　　365 +0 ◯ 365 −0

4. 实验小学有908人，其中男生有496人，估算女生大约有多少人时，把908看成（　　），把496看成（　　），所以女生大约有（　　）人。

5. 快递公司送出快递368件，还剩627件没送，原来有（　　）件。

二、选择。（将正确答案的序号填在括号里）（每题2分，共8分）

1. 寄一件快递49元，妈妈给外公寄去两件快递，大约需要（　　）元。

①50　　②100　　③98

2. 两数相加，十位相加满10要向（　　）进“1”。

①个位　　②十位　　③百位

3. 158 +496的结果最接近（　　）。

①700　　②650　　③600

4. 一个加数增加300，另一个加数减少300，它们的和（　　）。

①增加300　　②减少300　　③不变

三、计算。（共33分）

1. 口算。（每小题1分，共6分）

400 +600 =　　800 −700 =　　650 −50 =

640 −600 =　　50 +300 =　　500 +30 =

2. 计算并验算。（每小题3分，共6分）

210 +70 =　　验算：□ ◯ □ =□

500 −300 =　　验算：□ ◯ □ =□

关注微信公众号“教辅资料站”获取更多学习资料

3. 竖式计算。（每小题 3 分，共 12 分）

222 + 188 =　　465 + 294 =　　38 + 268 =　　267 + 346 =

4. 下面的计算对吗？（对的打“√”，错的打“×”，并改正）（每小题 3 分，共 9 分）

$$\begin{array}{r} 354 \\ +\ 418 \\ \hline 762 \end{array}$$ 改正：

（　　）

$$\begin{array}{r} 785 \\ +\ 367 \\ \hline 1052 \end{array}$$ 改正：

（　　）

$$\begin{array}{r} 634 \\ +\ 78 \\ \hline 1414 \end{array}$$ 改正：

（　　）

四、连一连。（12 分）


300+580


990−100


250+200

得数比800大

得数比500小


530−500


500−30


520+300

五、问题解决。（第 1 题 6 分，第 2 题 9 分，共 15 分）

1. 下午用电线多少米？



2. 购物。



389 元　　108 元　　298 元　　599 元

（1）买一张床和一个电饭煲大约要多少钱？

（2）买一盏台灯和一台微波炉一共要多少钱？

（3）请你提出一个数学问题并解答。

荣德基好卷

关注微信公众号“教辅资料站”获取更多学习资料



周测培优卷5

三位数的减法、探索规律和问题解决

班级_____ 姓名_____ 得分_____ 时间：40分钟 满分：100分

一、填空。（每空2分，共42分）

1. 比509少367的数是（　　），648比（　　）少239。

2. 470－90＝（　　），想：（　　）个十减去（　　）个十，得（　　）个十，就是（　　）。

3. 一个数加上546是690，这个数是（　　）。

4. 在◯里填上“＞”“＜”或“＝”。

522－298 ◯ 200　　598－405 ◯ 100　　400＋500 ◯ 900－200

340－200 ◯ 340－202　　280 ◯ 330－30　　609－209 ◯ 400

5. 按规律填空。

（1）6，6，10，6，6，10，6，6，10，_____，_____，_____。

（2）110，90，70，50，_____，_____。

（3）290，200，130，80，50，_____。

（4）□△，□△△，□△△△，□△△△△，_____。

二、选择。（将正确答案的序号填在括号里）（每题3分，共12分）

1. 下面算式中，（　　）的结果最小。

①570－490　　②407－368　　③458－379

2. 最小的三位数减去27，差是（　　）。

①83　　②127　　③73

3. 20，24，28，（　　），36，40。

①29　　②32　　③35

4. 骏龙店有140件快递，送走了118件，又送走了13件，还有多少件没送？正确列式是（　　）。

①140＋118＋13　　②140－118＋13　　③140－(118＋13)

三、计算。（共24分）

1. 口算。（每小题1分，共6分）

400－250＝　　400－350＝　　600＋80＝

210－110＝　　357－200＝　　1000－800＝

关注微信公众号“教辅资料站”获取更多学习资料

2. 竖式计算。（带＊的要验算）（每小题3分，共9分）

381 − 154 =　　＊802 − 585 =　　＊700 − 215 =

3. 下面的计算对吗？（对的打“√”，错的打“×”，并改正）（每小题3分，共9分）

$\begin{array}{r} 427 \\ -\ 128 \\ \hline 309 \end{array}$ 改正：（　　）

$\begin{array}{r} 900 \\ -\ \ 26 \\ \hline 884 \end{array}$ 改正：（　　）

$\begin{array}{r} 607 \\ -\ 499 \\ \hline 212 \end{array}$ 改正：（　　）

四、问题解决。（第1题3分，第2题4分，第3题9分，第4题6分，共22分）

1. 以下商品的价格比原来便宜了多少元？



原价：920元　现价：675元



原价：708元　现价：569元

2. 两个店昨天共赢利多少元？



3. 买白糖。



（1）只买6元一袋的白糖，可以买（　　）袋。

（2）只买8元一袋的白糖，可以买（　　）袋。

（3）两种包装的白糖都买，可以买（　　）袋6元一袋的白糖和（　　）袋8元一袋的白糖。

4. 果园里种橘子树456棵，如果再种58棵橘子树，橘子树就和梨树一样多，种桃树127棵。

（1）一共种了多少棵橘子树和梨树？

（2）请你提出一个数学问题并解决。

好卷

关注微信公众号“教辅资料站”获取更多学习资料

周测培优卷6

长方形、正方形的特征和平行四边形的认识

班级_____ 姓名_____ 得分_____ 时间：40分钟 满分：100分

一、填空。（每空2分，共22分）

1. 正方形的4条边都（　　），4个角都是（　　）角。
   长方形的4个角都是（　　）角，它的（　　）边相等。
2. 摆一个平行四边形，至少需要（　　）根小棒。
3. 右图拼的是（　　），用了（　　）个正方形，（　　）个长方形，（　　）个平行四边形，（　　）个圆和（　　）个三角形。



二、判断。（对的打“√”，错的打“×”）（每题3分，共15分）

1. 对边相等的四边形一定是长方形。（　　）
2. 两个相同的正方形可以拼成一个大正方形。（　　）
3. 正方形的四条边一样长。（　　）
4. 平行四边形的4个角都是直角。（　　）
5. 4根长分别为7 cm，7 cm，6 cm，5 cm的小棒能拼成1个长方形。（　　）

三、连一连。（共22分）

1. 认一认，连一连。（10分）



平行四边形　　正方形　　长方形

2. 拼一拼，连一连。（12分）



由2个拼成的图形。



由2个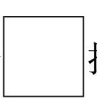拼成的图形。

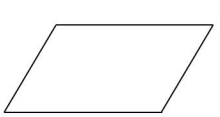

由2个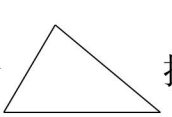拼成的图形。

荣德基好卷

关注微信公众号“教辅资料站”获取更多学习资料

四、按要求完成下面各题。（共 41 分）

1. 涂一涂。（17 分）

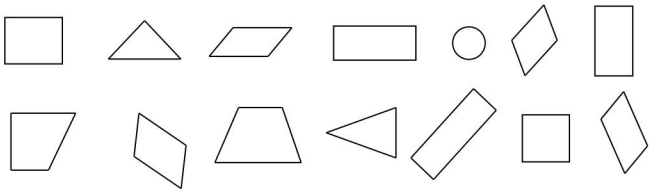

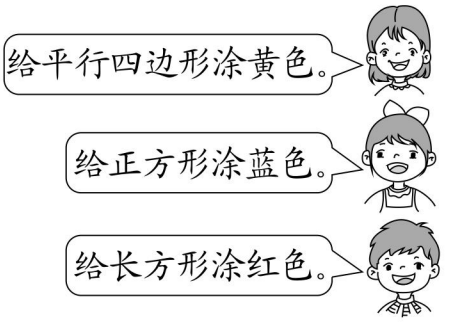

2. 数一数。（9 分）

（1）右图中有（　　）个长方形，（　　）个正方形。

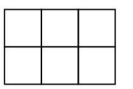

（2）右图中有（　　）个平行四边形。

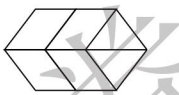

3. 画一画。（共 15 分）

（1）在方格纸上画一个长方形，一个正方形和一个平行四边形。（9 分）



（2）下图怎样改才能成为长方形，画一画。（6 分）

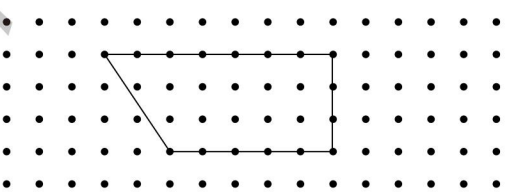

4. 下图中的两个空白部分是相同的长方形。（10 分）

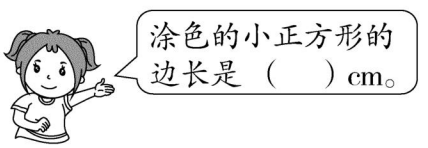

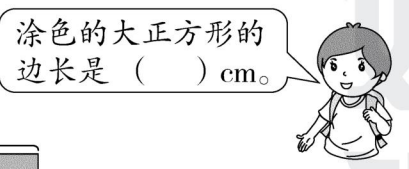

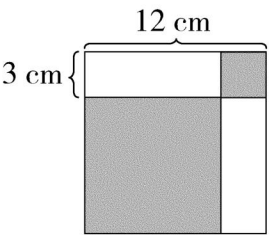

荣德基好卷

关注微信公众号“教辅资料站”获取更多学习资料



周测培优卷7

认识除法算式和有余数的除法

班级_____ 姓名_____ 得分_____ 时间：40分钟 满分：100分

一、填空。（第1题12分，其余每空2分，共36分）

1. 有21个气球。

（1）平均扎成4束，每束扎（　　）个，还剩(　　)个。列式计算为：

□÷□=（　　）（个）……（　　）（个）。

（2）每束扎5个，可以扎（　　）束，还剩(　　)个。列式计算为：

□÷□=（　　）（束）……（　　）（个）。

2. 26里面最多有（　　）个4，最多有（　　）个5。

3. 在算式△÷6=3……□中，□内可以填的数有（　　）

4.（　　）里最大能填几？

27>（　　）×5　　52>（　　）×8　　34>（　　）×9

9×（　　）<37　　8×（　　）<49　　（　　）×7<36

5. 把30件快递平均分给5个快递员送，每个快递员送（　　）件。把30件快递平均分给4个快递员送，每个快递员送（　　）件，还剩（　　）件。

二、判断。（对的打“√”，错的打“×”）（每题2分，共6分）

1. 任何数除以1都没有余数。（　　）

2. 一只30元的玩具狗可以换7辆5元的玩具小汽车。（　　）

3. 28÷7=3……7。（　　）

三、选择。（将正确答案的序号填在括号里）（每题3分，共9分）

1. 7×（　　）<56，括号里最大能填（　　）。

①6　　②7　　③8

2. 在一个有余数的除法算式中，如果除数是9，余数（　　）。

①大于9　　②等于9　　③小于9

3. 在算式□÷5=4……2中，被除数是（　　）。

①22　　②20　　③18

四、计算。（共27分）

1. 口算。（每小题1分，共6分）

56÷8=　　36÷5=　　56÷7=

2×9=　　45÷9=　　25÷6=

荣德基好卷

关注微信公众号“教辅资料站”获取更多学习资料

2. 竖式计算。（每小题 4 分，共 12 分）

45 ÷ 6 =　　52 ÷ 8 =　　42 ÷ 6 =

3. 下面的计算对吗？（对的打“√”，错的打“×”，并改正）（每小题 3 分，共 9 分）

$$\begin{array}{r} 5 \\ 8\overline{)41} \\ 40 \\ \hline 9 \end{array}$$ 改正：（　　）

$$\begin{array}{r} 8 \\ 8\overline{)60} \\ 64 \\ \hline 4 \end{array}$$ 改正：（　　）

$$\begin{array}{r} 7 \\ 6\overline{)48} \\ 42 \\ \hline 6 \end{array}$$ 改正：（　　）

五、问题解决。（第 4 题 10 分，其余每题 4 分，共 22 分）

1.



日记本　2元/本

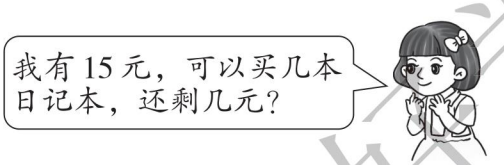

2. 某超市昨天卖出苹果 50 千克，如果每 8 千克装一箱，可以装多少箱？还剩多少千克？

3. 一共分成几组？还剩多少人？

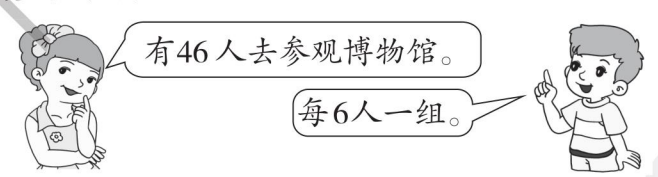

4. （1）49 个乒乓球，每 6 个装一盒，可以装多少盒？还剩多少个？

（2）49 个乒乓球平均装在 9 个盒里，每盒装几个？还剩几个没有装？

荣德基好卷

关注微信公众号“教辅资料站”获取更多学习资料



周测培优卷8

时、分、秒和问题解决

班级_____ 姓名_____ 得分_____ 时间：40分钟 满分：100分

一、填空。（每空2分，共44分）

1. 分针从4走到6，走了（　　）分。

2. 3时＝（　　）分　　120秒＝（　　）分　　1时30分＝（　　）分
半小时＝（　　）分　（　　）秒＝1分40秒　85分＝（　　）时（　　）分

3. 在里填上“＞”“＜”或“＝”。

60秒 ○ 1时　　120分 ○ 2时　　800秒 ○ 8时

7分 ○ 7秒　　100秒 ○ 10分　　90分 ○ 1时50分

4. 在括号里填上正确的时间单位。

（1）每天晚上睡觉大约9（　　）。　（2）跑100 m要20（　　）。

（3）看一集动画片大约要30（　　）。（4）眨一下眼需要1（　　）。

（5）拍10下球大约要8（　　）。　（6）烧一壶水大约要10（　　）。

5. 填一填。

（1）小江乘车去游乐园玩，上车：上午7：20，下车：上午7：55，乘车用了（　　）分。

（2）下午1：55妈妈带着小丽去学书法，下午3：25回到家，她们一共用了（　　）分。

二、判断。（对的打“√”，错的打“×”）（每题2分，共10分）

1. 50分是半小时。（　　）
2. 4时5分可以表示为4：5。（　　）
3. 从上午8：30到上午10：25，时间经过了1：55。（　　）
4. 8：45也可以说是9时差15分。（　　）
5. 妈妈每天工作8点钟。（　　）

三、按要求完成下面各题。（共24分）

1. 看时间，在钟面上画出分针。（每小题2分，共8分）



2：20



10：45

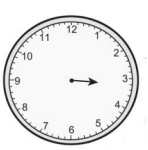

3：10



9：05

关注微信公众号“教辅资料站”获取更多学习资料

2. 连一连。(16 分)


8时55分


12时35分


9时50分


3时30分









8:55

9:50

12:35

3:30









四、问题解决。(第 3 题 10 分，其余每题 6 分，共 22 分)

1.

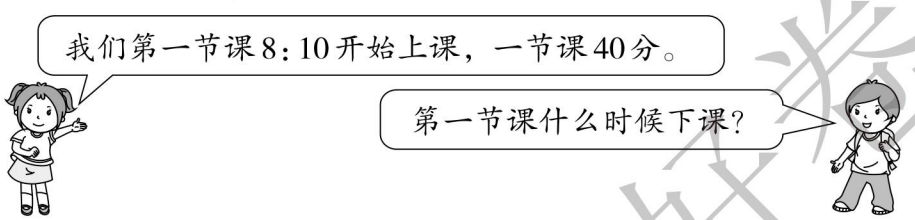

2. 还差 8 分《奥姆的故事》就开始播放了，动画片《奥姆的故事》是几时几分开始播放?



3. 400 m 赛跑。

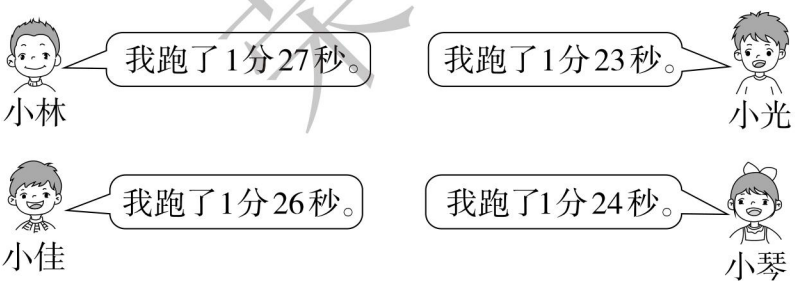

(1) 把前 3 名的名字填在领奖台上。

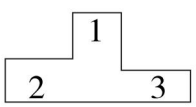

(2) 小林跑完 400 m 比小光多用了多少秒?

荣德基好卷

关注微信公众号“教辅资料站”获取更多学习资料

周测培优卷9

分类、整理数据，认识图形，统计图和统计表

班级_____ 姓名_____ 得分_____ 时间：40分钟 满分：100分

一、分一分，填一填。（每空2分，共12分）

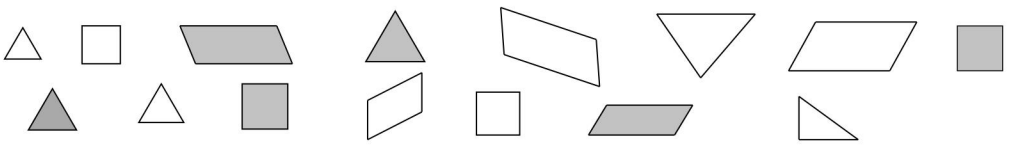

1. 三角形有（　　）个，正方形有（　　）个，平行四边形有（　　）个。

2. 按颜色分，可以分成（　　）类，白色有（　　）个，灰色有(　　)个。

二、动物乐园。（共25分）



1. 用“◯”代替动物，画一画，填一填。（16分）

熊猫	山羊	大象	猴子
（　）只	（　）只	（　）只	（　）只

2. 选择。（将正确答案的序号填在括号里）（每空3分，共9分）

（1）（　　）的数量最多。

①猴子　　②大象　　③山羊

（2）（　　）的数量最少。

①熊猫　　②大象　　③山羊

（3）山羊和大象一共有（　　）只。

①5　　②6　　③7

荣德基好卷

关注微信公众号“教辅资料站”获取更多学习资料

三、下面是某地2018年4月份上半月天气情况的记录，请用画“正”字的方法整理有关数据。（8分）

日期	1	2	3	4	5
天气					
日期	6	7	8	9	10
天气					
日期	11	12	13	14	15
天气					

			

四、数一数。（第1、2题每题9分，其余每题4分，共26分）



1. 用你喜欢的方法整理图形的个数。

	☆	♡

2. 把整理的结果填在右表中。

类别		☆	♡
个数			

3. ☆比多（　　）个，一共有（　　）个图形。
4. （　　）最多，（　　）最少。

五、下面是某菜鸟驿站5月10日下午快递量的记录。（第1题8分，第2题9分，其余每题6分，共29分）

申通快递	顺丰快递	百世快递	圆通快递
正正正正正一	正正正正丅	正正正正丌	正正正正丅

1. 将这个菜鸟驿站5月10日下午快递量统计表填完整。

申通快递	顺丰快递	百世快递	圆通快递
（　　）件	（　　）件	（　　）件	（　　）件

2. （　　）快递的快递量最多，（　　）快递和（　　）快递的快递量一样。
3. 从统计表中，你能知道这个菜鸟驿站5月10日下午一共收快递多少件吗？

4. 你还能提出什么问题？提出一个并解答。

荣德基好卷

关注微信公众号“教辅资料站”获取更多学习资料



参考答案及点拨（小卷）

周测培优卷 1

一、1. 10　10　2. 3　5　3050
3. 7　2　3　千　十　一　4. 三　万
5.（1）9004　（2）9090　九千零九十
（3）8004　八千零四
6. 四　千　7. 千　千　十　十　8. 1
9.（1）490　491　493　494　（2）3290　3300　3330
二、1. ×　2. √　3. ×　4. ×　5. √　6. ×
三、1. 4130　四千一百三十　3000　三千　5203　五千二百零三
2. 998　1000　9000　10000
3.
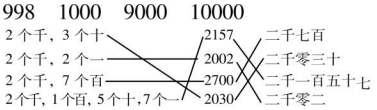

4.（1）四千　（2）1009　（3）6397
5.（1）7300　七千三百（答案不唯一）
（2）7030　七千零三十（答案不唯一）

周测培优卷 2

一、1. 883　899　899　883　2. 6000，7000
3. 三　四　6084
4. 899　901　998　1000　4098　4100
5. 99　6. 5　8　9　4（答案均不唯一）
7. <　>　>　<　>　>　8. 90
二、1. ②　2. ③　3. ①　4. ①
三、
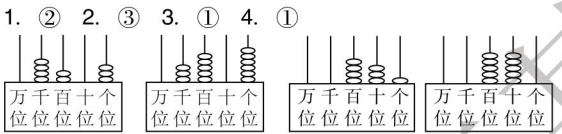

4203 (>) 3506　　431 (<) 550
四、1. 2823 > 2789 > 1899 > 853 > 698
2.（1）①　②　（2）②　①
五、1. √ 6407
2.

1326只	1770只	1300只	1348只	2770只	1300只
		♡		☆	

周测培优卷 3

一、1. 5000　8　600　10000　8　10　1　100　10　1
2. =　<　=　>　=　>
二、1. ×　2. ×　3. ×　4. √　5. ×
三、1. ①　2. ③　3. ②　4. ①　5. ②
四、1.
2. 2　1　3. 5 km　5 m　5 dm　5 cm　5 mm
4.
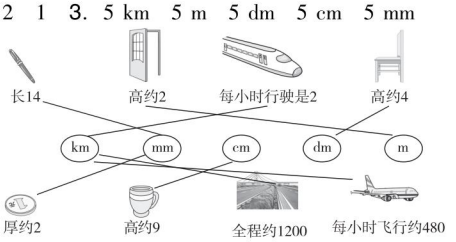

五、1. 10 + 8 = 18（cm）　18 cm = 180 mm
答：这支铅笔原来长 18 cm，也就是 180 mm。
2. 2 × 9 = 18（米）　18 米 < 19 米
答：做 9 根跳绳够。
3. 4 km = 4000 m　4000 + 5000 = 9000（m）
答：从洋洋家经过图书馆到园博园的路程是 9000 m。

周测培优卷 4

一、1. 570　500　2. 400　490　700　370　50　30
3. <　<　>　=　4. 900　500　400　5. 995
二、1. ②　2. ③　3. ②　4. ③
三、1. 1000　100　600　40　350　530
2. 280　70 + 210 = 280　200　200 + 300 = 500（验算不唯一）
3. 222 + 188 = 410　465 + 294 = 759

$$\begin{array}{r} 222 \\ +188 \\ \hline 410 \end{array} \qquad \begin{array}{r} 465 \\ +294 \\ \hline 759 \end{array}$$

38 + 268 = 306　267 + 346 = 613

$$\begin{array}{r} 38 \\ +268 \\ \hline 306 \end{array} \qquad \begin{array}{r} 267 \\ +346 \\ \hline 613 \end{array}$$

4. ×　改正：$\begin{array}{r} 354 \\ +418 \\ \hline 772 \end{array}$　×　改正：$\begin{array}{r} 785 \\ +367 \\ \hline 1152 \end{array}$
×　改正：$\begin{array}{r} 634 \\ +78 \\ \hline 712 \end{array}$

四、
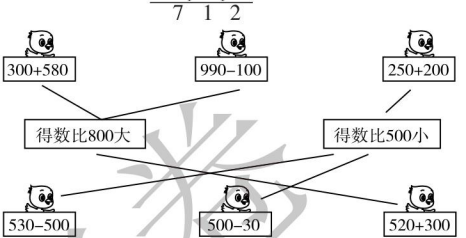

五、1. 368 + 232 = 600（米）　答：下午用电线 600 米。
2.（1）400 + 300 = 700（元）
答：买一张床和一个电饭煲大约要 700 元钱。
（2）108 + 599 = 707（元）
答：买一盏台灯和一台微波炉一共要 707 元钱。
（3）一张床比一盏台灯贵多少钱？
389 − 108 = 281（元）
答：一张床比一盏台灯贵 281 元钱。
［点拨］（3）题答案不唯一。

周测培优卷 5

一、1. 142　887　2. 380　47　9　38　380　3. 144
4. >　>　>　>　<　=
5.（1）6　6　10　（2）30　10
（3）30　（4）□△△△△△
二、1. ②　2. ③　3. ②　4. ③
三、1. 150　50　680　100　157　200
2. 381 − 154 = 227　802 − 585 = 217

$$\begin{array}{r} 381 \\ -154 \\ \hline 227 \end{array} \qquad \begin{array}{r} 802 \\ -585 \\ \hline 217 \end{array}$$

验算：$\begin{array}{r} 217 \\ +585 \\ \hline 802 \end{array}$

700 − 215 = 485

$$\begin{array}{r} 700 \\ -215 \\ \hline 485 \end{array}$$

验算：$\begin{array}{r} 485 \\ +215 \\ \hline 700 \end{array}$

3. ×　改正：$\begin{array}{r} 427 \\ -128 \\ \hline 299 \end{array}$　×　改正：$\begin{array}{r} 900 \\ -26 \\ \hline 874 \end{array}$
×　改正：$\begin{array}{r} 607 \\ -499 \\ \hline 108 \end{array}$

四、1. 920 − 675 = 245（元）　708 − 569 = 139（元）
答：羽绒服的价格比原来便宜了 245 元。毛衣的价格比原来便宜了 139 元。
2. 453 + 78 = 531（元）　531 + 453 = 984（元）
答：两个店昨天共赢利 984 元。
3.（1）8　（2）6　（3）4　3
4.（1）456 + 58 = 514（棵）　456 + 514 = 970（棵）
答：一共种了 970 棵橘子树和梨树。

荣德基培优卷

关注微信公众号“教辅资料站”获取更多学习资料

［点拨］应先算出梨树的棵数，从题中可知种的梨树比橘子树多 58 棵，求出梨树的棵数后即可求解。

（2）橘子树和桃树一共有多少棵？

456 + 127 = 583（棵）

答：橘子树和桃树一共有 583 棵。

［点拨］答案不唯一。

周测培优卷 6

一、1. 相等　直　直　对

2. 4　3. 房子　2　2　2　3　2

二、1. ×　2. ×　3. √　4. ×　5. ×

三、1.

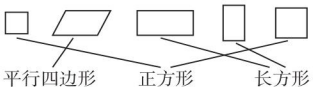

2.

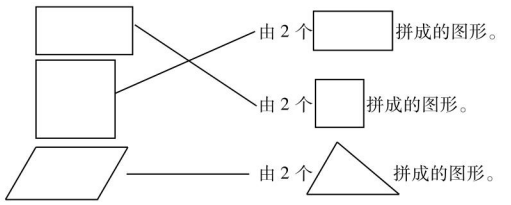

四、1. 略　2.（1）10　8　（2）7

3.（1）略

（2）

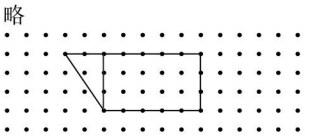

（答案不唯一）

4. 3　9

周测培优卷 7

一、1.（1）5　1　21　4　5　1

（2）4　1　21　5　4　1

2. 6　5　3. 1，2，3，4，5

4. 5　6　3　4　6　5　5. 6　7　2

二、1. √　2. ×　3. ×

三、1. ②　2. ③　3. ①

四、1. 7　7……1　8　18　5　4……1

2. 45 ÷ 6 = 7……3　52 ÷ 8 = 6……4　42 ÷ 6 = 7

$$\begin{array}{r} 7 \\ 6\overline{)45} \\ 42 \\ \hline 3 \end{array} \qquad \begin{array}{r} 6 \\ 8\overline{)52} \\ 48 \\ \hline 4 \end{array} \qquad \begin{array}{r} 7 \\ 6\overline{)42} \\ 42 \\ \hline 0 \end{array}$$

3. ×　改正：$\begin{array}{r} 5 \\ 8\overline{)41} \\ 40 \\ \hline 1 \end{array}$　×　改正：$\begin{array}{r} 7 \\ 8\overline{)60} \\ 56 \\ \hline 4 \end{array}$

×　改正：$\begin{array}{r} 8 \\ 6\overline{)48} \\ 48 \\ \hline 0 \end{array}$

五、1. 15 ÷ 2 = 7（本）……1（元）

答：可以买 7 本日记本，还剩 1 元。

2. 50 ÷ 8 = 6（箱）……2（千克）

答：可以装 6 箱，还剩 2 千克。

3. 46 ÷ 6 = 7（组）……4（人）

答：一共分成 7 组，还剩 4 人。

4.（1）49 ÷ 6 = 8（盒）……1（个）

答：可以装 8 盒，还剩 1 个。

（2）49 ÷ 9 = 5（个）……4（个）

答：平均每盒装 5 个，还剩 4 个没有装。

周测培优卷 8

一、1. 10　2. 180　2　90　30　100　1　25

3. <　=　<　>　<　<

4.（1）时　（2）秒　（3）分　（4）秒　（5）秒　（6）分

5.（1）35　（2）90

二、1. ×　2. ×　3. ×　4. √　5. ×

三、1.

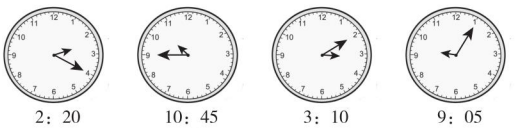

2.

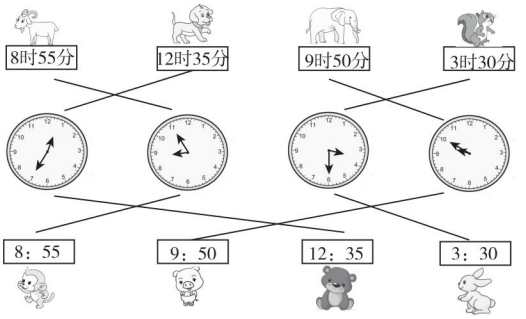

四、1. 8 时 10 分 + 40 分 = 8 时 50 分

答：第一节课 8 时 50 分下课。

2. 5 时 40 分 + 8 分 = 5 时 48 分

答：动画片《奥姆的故事》是 5 时 48 分开始播放。

3.（1）



［点拨］1 分 23 秒 < 1 分 24 秒 < 1 分 26 秒 < 1 分 27 秒。

（2）1 分 27 秒 = 87 秒　1 分 23 秒 = 83 秒

87 − 83 = 4（秒）

答：小林跑完 400 m 比小光多用了 4 秒。

周测培优卷 9

一、1. 6　4　5　2. 两　9　6

二、1.

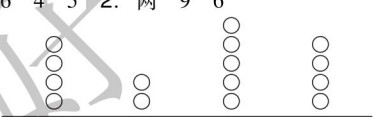

（4）只　（2）只　（5）只　（4）只

2.（1）②　（2）③　（3）③

三、正　下　下　下

四、1.（方法不唯一）　正　正　正

2. 6　8　7　3. 2　21　4. ☆　▷

五、1. 26　22　19　22

2. 申通　顺丰　圆通

3. 26 + 22 + 19 + 22 = 89（件）

答：这个菜鸟驿站 5 月 10 日下午一共收快递 89 件。

4. 这个菜鸟驿站 5 月 10 日下午一共收申通快递和百世快递的快递多少件？

26 + 19 = 45（件）

答：这个菜鸟驿站 5 月 10 日下午一共收申通快递和百世快递的快递 45 件。

［点拨］本题答案不唯一。

期末总复习

专项能力提升卷 1

1. 4　4　千　2. 个　4　一　4　百

3. 四　千　千　十　十　4. 7090　605

5. 三千零四十　一千三百　七千零三　6. 6000　3001　3078

7.（1）2500　5200　（2）2005　5002（或 2050　5020）

8. 150

9.

49 下	106 下	114 下	130 下	209 下
小灿		小贝		小兰

10.（1）杨柳　五星　高阳　（2）少得多

专项能力提升卷 2

1.（1）440　320　300　200　300　900

（2）>　>　>　<　=　>

（3）$\begin{array}{r} 600 \\ -463 \\ \hline 137 \end{array}$　$\begin{array}{r} 813 \\ +194 \\ \hline 1007 \end{array}$　$\begin{array}{r} 803 \\ -348 \\ \hline 455 \end{array}$　$\begin{array}{r} 343 \\ +657 \\ \hline 1000 \end{array}$

［点拨］第 1，3 个竖式答案不唯一。

关注微信公众号“教辅资料站”获取更多学习资料

2. 654 + 329 = 983　519 − 436 = 83

307 + 496 = 803　验算：

660 − 356 = 304　300 − 123 = 177

507 − 253 = 254　验算：

281 + 204 + 197 = 682

760 − 257 − 279 = 224　934 − 246 + 75 = 763

3. × 改正：　× 改正：

× 改正：　× 改正：

4. 800 − 224 = 576（米）　答：娟娟跑了 576 米。

5. 274 + 52 = 326（个）　274 + 326 = 600（个）
答：他们两人今天一共做了 600 个零件。

6. 345 + 376 = 721（本）　721 − 483 = 238（本）
答：作业本有 238 本。
［点拨］ 发了的本数加上还剩的本数就是这批本子的总数量，用这批本子的总数量减去练习本的本数即可求解。

7.（1）500 + 100 = 600（千克）
答：一头牛和一只山羊大约共重 600 千克。
［点拨］ 还可以这样算：520 + 90 = 610（千克）。
（2）523 − 236 = 287（千克）
答：一头牛比一匹马重 287 千克。
（3）一匹马和一头牛一共重多少千克？
236 + 523 = 759（千克）
答：一匹马和一头牛一共重 759 千克。
［点拨］ 本题答案不唯一。

专项能力提升卷 3

1.（1）圈一圈略。　35 ÷ 7 = 5（组）
（2）摆一摆略。　35 ÷ 8 = 4（组）……3（根）

2. 63 ÷ 7 = 9　75 ÷ 8 = 9……3　32 ÷ 6 = 5……2　51 ÷ 9 = 5……6

3.（1）6　5　（2）6　1　（3）32　（4）41
（5）8　5　5　4

4.（1）②　（2）②

5.

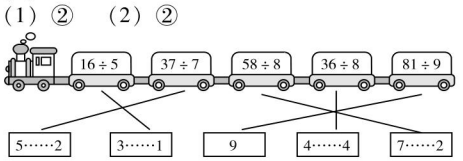

6. 5　2　5　5　8　2　7　3

7. 20 ÷ 6 = 3（本）……2（元）
答：20 元钱可以买 3 本笔记本，还剩 2 元钱。

8. 40 ÷ 6 = 6（箱）……4（只）　答：可以装 6 箱，还剩 4 只。

9. 18 ÷ 4 = 4……2
答：每排的最后一个同学应该报 2。
［点拨］ 18 人里面有 4 个 4 人余 2 人，所以每排的最后一个同学应该报 2。

10. 52 ÷ 8 = 6（辆）……4（人）
答：最多可以坐满 6 辆车，剩下 4 人。
52 ÷ 6 = 8（条）……4（人）　8 + 1 = 9（条）
答：至少需要 9 条船。
［点拨］ 坐满 8 条碰碰船后，还剩下 4 人没坐，所以至少需要 9 条船。

专项能力提升卷 4

1. 秒　分　分　时　分　时
2. >　<　=　>　<　>　=　<
3. 3 秒　35 秒　6 分　48 分　6 时　4. 360　75　240　1　32
5. 20 分　8：50　晚上　7：00
6. 30 ÷ 5 = 6（个）　答：半小时他能加工 6 个零件。
7. 60 − 30 − 20 = 10（分）　答：听 10 分的歌曲，正好过 1 小时。
7 时 + 1 时 = 8 时　答：这时已是晚上 8 时。
8. 4 时 20 分 + 30 分 = 4 时 50 分　4 时 50 分 + 20 分 = 5 时 10 分
5 时 10 分 > 5 时　答：小文下午 5 时没有到家。
9.（1）10 时 − 8 时 50 分 = 1 时 10 分　答：买书花了 1 时 10 分。
（2）7 时 + 2 时 = 9 时
答：起床后 2 小时，莫欣正在书店买书。
［点拨］ 从“去书店：8：50 ~ 10：00”这一信息中我们知道 9 时莫欣在书店买书。
（3）11 时 − 8 时 50 分 = 2 时 10 分
答：去书店买书和去公园共花了 2 时 10 分。

专项能力提升卷 5

一、1. 3　2. 8　35　3. 999　1000　4. 10
5. 4　22　6. 55　10　7. <　<　>　>　>　=
8.（1）2250　2350　2550　（2）22 + 7 = 29　29 + 7 = 36
（3）

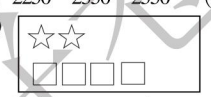

二、1. ×　2. ×　3. √　4. ×

三、1. ③　2. ②
3. ①　［点拨］ 8 时 20 分 − 30 分 = 7 时 50 分。
4. ②

四、× 改正：　× 改正：

× 改正：

五、1. 2 分 = 120 秒　120 − 104 = 16（秒）
答：小宁算得快，快 16 秒。
2. 503 − 124 = 379（只）　379 + 503 = 882（只）
答：公鸡和母鸡一共养了 882 只。
3.（1）26 + 3 = 29（人）　29 ÷ 4 = 7（辆）……1（人）
7 + 1 = 8（辆）　答：至少需要 8 辆。
（2）7 × 3 = 21（人）　29 − 21 = 8（人）
8 ÷ 4 = 2（辆）　答：小车派 2 辆，面包车派 3 辆。

专项能力提升卷 6

1. 1000　10000
2. 2143　二千一百四十三　2015　二千零一十五　3500　三千五百
3. 千　4　一　3046　4. 3030　三千零三十
5. 1　6. 5001　五千零一　7. 5709　四　5708　5710
8. 7004　4007　7040　4070　7400　4700　9. 8750　5078
10. 999　7009　7900　9007　9070　9700
11. 1100　>　400　1024　<　3500　12. 7　6
13.（1）cm　（2）mm　（3）dm　（4）m　（5）km
14. 1000　15. 444　700　16. 791　17. 1000　18. 200
19. 1800　20. 8　21. 1，2，3，4，5，6　22. 8　23. 4　1
24. 47　25. 直　26. 2 时 20 分　27. 20　15　时
28. 3：20　4：00　29. 2 时 35 分　半小时 9 分 40 秒 15 秒

专项能力提升卷 7

1. ③　2. ①　3. ③　4. ③　5. ②　6. ①　7. ①
8. ②　9. ①　10. ②　11. ①　12. ③　13. ①　14. ②

关注微信公众号“教辅资料站”获取更多学习资料

15. ② 16. ③ 17. ③ 18. ③ 19. ② 20. ②
21. ② 22. ③ 23. ② 24. ③ 25. ① 26. ②

专项能力提升卷 8

1. 100 400 300 900 80 7000
2. 300 500 200 600 390 600
3. = < > < > = < <
4. 315 + 408 = 723　　768 − 469 = 299

$$\begin{array}{r} 3\ 1\ 5 \\ +\ 4\ 0\ 8 \\ \hline 7\ 2\ 3 \end{array}$$ 验算：$$\begin{array}{r} 4\ 0\ 8 \\ +\ 3\ 1\ 5 \\ \hline 7\ 2\ 3 \end{array}$$　$$\begin{array}{r} \dot{7}\ \dot{6}\ 8 \\ -\ 4\ 6\ 9 \\ \hline 2\ 9\ 9 \end{array}$$ 验算：$$\begin{array}{r} 2\ 9\ 9 \\ +\ 4\ 6\ 9 \\ \hline 7\ 6\ 8 \end{array}$$

325 + 496 = 821

$$\begin{array}{r} 3\ 2\ 5 \\ +\ 4\ 9\ 6 \\ \hline 8\ 2\ 1 \end{array}$$ 验算：$$\begin{array}{r} 4\ 9\ 6 \\ +\ 3\ 2\ 5 \\ \hline 8\ 2\ 1 \end{array}$$

5. 178 + 352 = 530　386 − 99 = 287　900 − 274 = 626

$$\begin{array}{r} 1\ 7\ 8 \\ +\ 3\ 5\ 2 \\ \hline 5\ 3\ 0 \end{array}$$　$$\begin{array}{r} \dot{3}\ \dot{8}\ 6 \\ -\ \ 9\ 9 \\ \hline 2\ 8\ 7 \end{array}$$　$$\begin{array}{r} \dot{9}\ \dot{0}\ 0 \\ -\ 2\ 7\ 4 \\ \hline 6\ 2\ 6 \end{array}$$

218 + 104 + 295 = 617　950 − 356 − 388 = 206

$$\begin{array}{r} 2\ 1\ 8 \\ +\ 1\ 0\ 4 \\ \hline 3\ 2\ 2 \end{array}$$　$$\begin{array}{r} 3\ 2\ 2 \\ +\ 2\ 9\ 5 \\ \hline 6\ 1\ 7 \end{array}$$　$$\begin{array}{r} \dot{9}\ \dot{5}\ 0 \\ -\ 3\ 5\ 6 \\ \hline 5\ 9\ 4 \end{array}$$　$$\begin{array}{r} 5\ \dot{9}\ 4 \\ -\ 3\ 8\ 8 \\ \hline 2\ 0\ 6 \end{array}$$

875 − 262 + 243 = 856

$$\begin{array}{r} 8\ 7\ 5 \\ -\ 2\ 6\ 2 \\ \hline 6\ 1\ 3 \end{array}$$　$$\begin{array}{r} 6\ 1\ 3 \\ +\ 2\ 4\ 3 \\ \hline 8\ 5\ 6 \end{array}$$

6. (1) 396　847　0　100　749　220　316　561
(2) $$\begin{array}{r} 2\boxed{2}6 \\ +\boxed{6}2\boxed{6} \\ \hline 8\ 5\ 2 \end{array}$$　$$\begin{array}{r} 9\boxed{2}4 \\ -\boxed{4}5\ 7 \\ \hline 4\ 6\ \boxed{7} \end{array}$$　$$\begin{array}{r} 4\boxed{8}7 \\ -\boxed{1}8\boxed{9} \\ \hline 2\ 9\ 8 \end{array}$$　$$\begin{array}{r} 4\ 3\ 0 \\ +\boxed{3}\boxed{4}5 \\ \hline 7\ 7\ \boxed{5} \end{array}$$
7. (1) 500　300　500　300　800
(2) 800　800　800　800　1600
8. 10　10　3　94　20　2　100　1

专项能力提升卷 9

1. 6　42　9　9　5　45　6　8　4　24　7　9
2. 3　2　5　2　6　4　4　3　6　1　5　2
3. 4　6　8　8　7　7
4. 63 ÷ 9 = 7　28 ÷ 9 = 3……1　38 ÷ 6 = 6……2　54 ÷ 8 = 6……6

$$\begin{array}{r} 7 \\ 9\overline{)63} \\ 63 \\ \hline 0 \end{array}$$　$$\begin{array}{r} 3 \\ 9\overline{)28} \\ 27 \\ \hline 1 \end{array}$$　$$\begin{array}{r} 6 \\ 6\overline{)38} \\ 36 \\ \hline 2 \end{array}$$　$$\begin{array}{r} 6 \\ 8\overline{)54} \\ 48 \\ \hline 6 \end{array}$$

41 ÷ 6 = 6……5　35 ÷ 8 = 4……3　47 ÷ 9 = 5……2　56 ÷ 7 = 8

$$\begin{array}{r} 6 \\ 6\overline{)41} \\ 36 \\ \hline 5 \end{array}$$　$$\begin{array}{r} 4 \\ 8\overline{)35} \\ 32 \\ \hline 3 \end{array}$$　$$\begin{array}{r} 5 \\ 9\overline{)47} \\ 45 \\ \hline 2 \end{array}$$　$$\begin{array}{r} 8 \\ 7\overline{)56} \\ 56 \\ \hline 0 \end{array}$$

5. 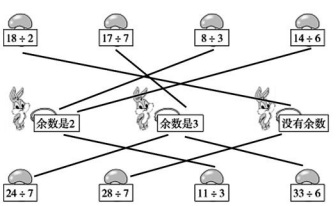

6. 竖着填：7　2　5　1　32　6
7. $$\begin{array}{r} 9 \\ 6\overline{)54} \\ 54 \\ \hline 0 \end{array}$$　$$\begin{array}{r} 8 \\ 8\overline{)66} \\ 64 \\ \hline 2 \end{array}$$　$$\begin{array}{r} 5 \\ 9\overline{)47} \\ 45 \\ \hline 2 \end{array}$$　$$\begin{array}{r} 6 \\ 6\overline{)41} \\ 36 \\ \hline 5 \end{array}$$
8. × 改正：$$\begin{array}{r} 9 \\ 4\overline{)36} \\ 36 \\ \hline 0 \end{array}$$　× 改正：$$\begin{array}{r} 8 \\ 3\overline{)25} \\ 24 \\ \hline 1 \end{array}$$　× 改正：$$\begin{array}{r} 6 \\ 5\overline{)34} \\ 30 \\ \hline 4 \end{array}$$
9. 6　1　30　60　1　180　3　2　40　4　10

专项能力提升卷 10

1. (1) 2　3　3　(2) 2　3　1
2. (1) 3　7　(2) 2　10　2
3. 2　6　2　6　4. ③　5. ③　6. ②　7. ②　8. 略
9. (1) 4　(2) 4　2　(3) 2

专项能力提升卷 11

1. (1) 200 + 400 = 600（元）
答：买一台电风扇和一辆自行车大约需要 600 元。
(2) 400 − 200 = 200（元）
答：一辆自行车比一台电风扇大约贵 200 元钱。
2. 石门店　长石店　高阳店
3. 108 + 155 = 263（辆）
答：两个公司一共购买了 263 辆出租车。
4. 937 − 258 = 679（元）　答：洗衣机 679 元。
5. 113 + 25 = 138（cm）　138 − 8 = 130（cm）
答：小琴高 130 cm。
6. 400 − 80 = 320（朵）　400 + 320 = 720（朵）
答：一共采了 720 朵。
7. 168 + 227 = 395（个）　395 + 105 = 500（个）
答：李师傅一共要加工 500 个零件。
8. 985 − 150 = 835（元）　835 − 258 = 577（元）或
150 + 258 = 408（元）　985 − 408 = 577（元）
答：现在买这部手机需要 577 元钱。
9. 578 + 296 = 874（人）　874 − 385 = 489（人）
答：现在车上还有 489 人。
10. 623 + 375 = 998（千克）　998 − 492 = 506（千克）
答：吃了 506 千克大米。
[点拨] 原有大米的千克数加上又运来大米的千克数减去还剩下大米的千克数，就是吃了的大米的千克数。

专项能力提升卷 12

1. (1) 24 ÷ 3 = 8（瓶）　答：可以买 8 瓶冰红茶。
(2) 6 × 3 = 18（元）　24 − 18 = 6（元）
答：还剩 6 元钱。
(3) 可以买几瓶纯果汁，还剩多少钱？
24 ÷ 9 = 2（瓶）……6（元）
答：可以买 2 瓶纯果汁，还剩 6 元钱。
[点拨] 本题答案不唯一。
2. 26 ÷ 5 = 5（吨）……1（吨）
答：平均每辆汽车运 5 吨，还剩 1 吨。
3. 28 ÷ 5 = 5（条）……3（人）　5 + 1 = 6（条）
答：至少要租 6 条船才够。
[点拨] 剩下的 3 人也要租一条船哟！
4. 10 ÷ 3 = 3（个）……1（元）　答：最多能买 3 个。
5. 51 ÷ 9 = 5（次）……6（吨）　5 + 1 = 6（次）
答：如果都用大卡车运，至少要运 6 次。
51 ÷ 6 = 8（次）……3（吨）　8 + 1 = 9（次）
答：如果都用小卡车运，至少要运 9 次。
6 × 4 = 24（吨）　51 − 24 = 27（吨）　27 ÷ 9 = 3（次）
答：用小卡车运 4 次，大卡车运 3 次正好运完。
[点拨] 第 3 问答案不唯一。
6. (1) 5　5　35　(2) 35
(3) 星期一这段时间，我是在家里，因为放学后，我已回到家。[点拨] 答案不唯一。
7. 11：50 − 8：00 = 3 时 50 分　5：00 − 1：00 = 4 时
3 时 50 分 + 4 时 = 7 时 50 分
答：周一到周五每天开放 7 时 50 分。
12：00 − 9：00 = 3 时　5：30 − 1：30 = 4 时
3 时 + 4 时 = 7 时
答：周六、周日每天开放 7 时。

荣德基好卷

关注微信公众号“教辅资料站”获取更多学习资料