好卷



同步 跟踪检测 | 周测 培优卷 | 单元 检测卷 | 期中 检测卷

期末 复习冲刺 | 专项能力 提升卷 | 模块 过关卷 | 仿真 模拟卷

教辅资料站

电子教辅　试卷练习
知识总结　备课资源

扫码关注获取更多学习资料

2 数学 年级(下) XS版

好题 ★ 好卷 ★ 好成绩

时代出版传媒股份有限公司
安徽教育出版社

《好卷》=《大卷》+《小卷》：不是所有的试卷都叫“好卷”，期末提分才是硬道理

同步测评用

小卷

周测培优卷

数数、写数、读数 …… 01
大小比较、较大数的估计、认识算盘 …… 03
千米、毫米的认识和简单的单位换算 …… 05
整十、整百数的加减、三位数的加法 …… 07
三位数的减法、探索规律和问题解决 …… 09
长方形、正方形的特征和平行四边形的认识 …… 11
认识除法算式和有余数的除法 …… 13
时、分、秒和问题解决 …… 15
分类、整理数据，认识图形，统计图和统计表 …… 17

大卷

单元检测卷

第一单元　跟踪检测卷 …… 1
第二单元　跟踪检测卷 …… 5
第三单元　跟踪检测卷 …… 9
期中　跟踪检测卷 …… 13
第四单元　跟踪检测卷 …… 17
第五单元　跟踪检测卷 …… 21
第六、七单元　跟踪检测卷 …… 25

期末冲刺用

小卷

专项能力提升卷

计数单位的认识、含0的数的写、读规则 …… 19
三位数的连续进位加法和退位减法的计算及应用 …… 21
有余数的除法计算及应用 …… 23
时、分、秒的换算及经过时间的计算方法 …… 25
常考易错题 …… 27

填空题 …… 29
选择题 …… 31
计算题（一） …… 33
计算题（二） …… 35
图形题 …… 37
应用题（一） …… 39
应用题（二） …… 41

大卷

模块过关卷

数与代数　统计 …… 29
图形与几何 …… 33

仿真模拟卷

仿真模拟卷（一） …… 37
仿真模拟卷（二） …… 41
仿真模拟卷（三） …… 45

大卷答案 见大卷49~60页　小卷答案 见小卷43~46页

微信公众号
关注微信公众号“教辅资料站”获取更多学习资料

如何选择一本好卷？

现在市场上试卷质量参差不齐，加之各学科“核心素养”的提出，就更加突显出一本“好”卷的稀有和珍贵。如何慧眼识珠，牵引并旅选到一本“好”卷，令教师教学如鱼得水，使学生学习事半功倍，显得至关重要。资深基老师将其与全国众多优秀教改专家的研究成果汇总成四点分享如下，希望对广大师生有所裨益。

① 形式上要“好用”

测试方便：活页试卷，收发自如。

时间灵活：课后自测、课堂小测、班级统测，一应俱全。

卷面规范：字迹清晰，题空合理，版面整齐。

② 读懂试卷质量优劣的“四个指标”

一份试卷质量的优劣可用四个指标来评价：信度、效度、难度和区分度。

信　度：真实地反映考生的实际水平，体现在试题的难度、题目的数量、题目用语的准确性方面。

效　度：评测目的明确、命题范围准确、题目考查形式合理。

难　度：每一道试题的难度合理，整套试卷的难度适中。

区分度：区分度高的试卷能将不同水平的学生区分开来，水平高的学生得高分，水平低的学生得低分。

③ 抓住卷的核心：“好题”

卷的核心是“好题”，每套卷中的好题堪称灵魂，是广大师生十分期待的。

“好题”特征之一：**引领命题方向。**如题型新颖、考法新奇、结合生活实际、情境化、应用性突出。

“好题”特征之二：**体现学科素养。**如：语文倡导主题读写能力测评，数学注重实际问题的解决，英语倾向于听说读写综合能力提升。

④ 解除老师和学生痛点：“实用”

市场上现有试卷多数为“大卷”，即标准统考卷，在评测时间及针对性上老师会觉得用着不顺手，不能真正做到与教学同步及针对性测评。老师们都急需短时高效、针对性强的“小卷”，如针对每单元基础知识梳理的评测、专项应用能力的评测及主题阅读素养的评测等。

抓住以上四点，即可帮你锁定一本好的试卷，让你收获满满！



《好卷》正是一本这样的书！用好卷 做好题 定能取得好成绩！

拍手歌

DAI SHOU GE

你拍一，　我拍一，　高效学习做“好题”；
你拍二，　我拍二，　我有《好卷》藏宝袋；
你拍三，　我拍三，　常做习题不怕难；
你拍四，　我拍四，　我是勤学好孩子；
你拍五，　我拍五，　天天向上不马虎；
你拍六，　我拍六，　快乐成长争优秀；
你拍七，　我拍七，　循序渐进好阶梯；
你拍八，　我拍八，　成绩优秀顶呱呱；
你拍九，　我拍九，　学习习惯要持久；
你拍十，　我拍十，　永远认真学知识。



关注微信公众号“教辅资料站”获取更多学习资料

第一单元 跟踪检测卷

万以内数的认识

时间：60 分钟　满分：100 分 +10 分

题号	一	二	三	四	五	六	附加题	总分
得分								

一、填空。（每空 1 分，共 30 分）

1. 7004 里面有（　　）个（　　）和（　　）个（　　）。52 个百是（　　）。
2. 与 7899 相邻的两个数是（　　）和（　　）。
3. 由 4 个千，8 个百，5 个一组成的数是（　　），它是（　　）位数，最高位是（　　）位。
4. 一个数千位和个位上都是 9，其余数位上都是 0，这个数是（　　），读作：（　　）。
5. 比 2999 多 1 的数是（　　），比 10000 少 1 的数是（　　）。
6. 七千六百四十八是由（　　）个千、（　　）个百、4 个（　　）和 8 个（　　）组成的，写作（　　）。
7. 按规律写数。

（1）（　　）　（　　）

596　597　599　（　　）602　603

（2）2396，2386，2376，（　　），（　　）。

8. 在○里填上“＞”“＜”或“＝”。



9. 一百一百地数，6930 后面连续的两个数是（　　），（　　）。

二、判断。（对的打“√”，错的打“×”）（每题 2 分，共 10 分）

1. 9009 中的两个“9”表示的意义相同。　　（　　）
2. 10000 里面有 1000 个十。　　（　　）
3. 与 5020 相邻的两个数是 5010 和 5030。　　（　　）
4. 近似数小于准确数。　　（　　）
5. 6040 中的两个“0”都不读。　　（　　）

三、选择。（将正确答案的序号填在括号里）（每题 2 分，共 10 分）

1. 3028 中的“3”表示（　　）。

①3 个十　　②3 个百　　③3 个千

2. 只读一个零的数是（　　）。

①3400　　②3040　　③9830

3. 6000 前面的一个数是（　　）。

①5000　　②6001　　③5999

4. 根据六千零九写出的数中间（　　）。

①有一个 0　　②有 2 个 0　　③没有 0

5. 用 7、0、5 三个数可以组成（　　）个不同的三位数。

①4　　②5　　③6

四、它们分别该吃哪个桃子？（连一连）（8 分）



五、按要求做题。（共 22 分）

1. 读一读。（每小题 2 分，共 6 分）

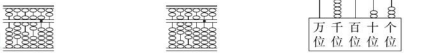

读作：_____　　读作：_____　　读作：_____

关注微信公众号“教辅资料站”获取更多学习资料

2. 画一画。（每小题 2 分，共 6 分）

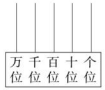

4060

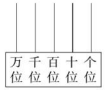

10000


4378

3. 写一写。（每小题 3 分，共 6 分）


写作：_____



写作：_____

4. 比一比。（4 分）

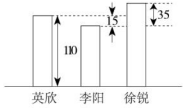

六、问题解决。（第 1、2 题每题 3 分，3 题 14 分，共 20 分）

1.





在正确答案下面画“√”。

100 颗	200 颗	400 颗

2. 根据下图，在表格中选择合适的价格画“√”。



	2300 元	800 元	100 元
床			
柜子			
椅子			

3. 某网店上周销售情况如下：

星期	一	二	三	四	五	六	日
金额（元）	486	1600	879	998	2005	8942	7987

（1）分一分。

三位数	

四位数	

（2）填一填。

①（　　）与 1000 最接近，（　　）比 8000 大。

②个位上是 6 的数是（　　），百位上是 8 的数是（　　）。

③7987 = 7000 + 900 + 80 + 7

8942 = （　　） + （　　） + （　　） + 2

1600 = （　　） + （　　）

（3）把上面每天销售的金额数按从少到多的顺序排一排。

附加题：（10 分）

从 0 ~ 9 这十个数字中选出四个（每小题中每个数字只能出现一次），按要求组成四位数。

（1）组成最大的四位数是_____。

（2）组成最小的四位数是_____。

（3）组成有一个零，但零不读出来的最大四位数是_____。

（4）组成有一个零，并且要读出来的最小四位数是_____。

荣德基 品质教辅 微信公众号 教辅资料站
关注微信公众号“教辅资料站”获取更多学习资料

第二单元 跟踪检测卷

千米的认识

时间：60 分钟　满分：100 分 +10 分

题号	一	二	三	四	五	六	附加题	总分
得分								

姓名　学号　班级　学校

温馨提示：书不要在书包内乱塞哦！

一、填空。（每空 1 分，共 25 分）

1. 
长（　　）厘米

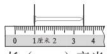
长（　　）毫米

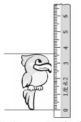
高（　　）毫米

2. 2000 米比 1 千米多（　　）千米。
3. 测量高速公路的长度应用（　　）作单位，测量一元硬币的厚度应用（　　）作单位。
4. 操场的跑道，通常一圈是 400 米，那么两圈半是（　　）千米。
5. 7 cm =（　　）mm　　3000 m =（　　）km　　400 mm =（　　）dm
8 km =（　　）m　　8 dm =（　　）mm　　1000 mm =（　　）m
6. 在◯里填上“ > ”“ < ”或“ = ”。

9 km ◯ 900 m　　13 cm ◯ 31 mm

67 mm + 33 mm ◯ 1 m　　4000 m ◯ 4 km

140 cm ◯ 14 dm　　8 km − 6 km ◯ 1999 m

7. 7 km − 4000 m =（　　）m　　7 mm + 3 mm =（　　）cm
3 km + 6 km =（　　）m　　63 mm + 37 mm =（　　）dm
8. 一条彩带用了全长的一半还多 5 分米，这时还剩 20 分米，这条彩带原来长（　　）分米，合（　　）米。

二、判断。（对的打“√”，错的打“×”）（每题 2 分，共 12 分）

1. 周小锐每分走 3 千米。（　　）
2. 1000 米长的铁丝和 1 千米长的电线一样长。（　　）
3. 比 5 米多 5 厘米是 55 厘米。（　　）
4. 长度单位之间的进率都是 10。（　　）
5. 5 厘米大于 30 毫米。（　　）
6. 一张书桌高 7 米。（　　）

三、选择。（将正确答案的序号填在括号里）（每题 2 分，共 12 分）

1. 1 公里的路程就是（　　）。
①1000 厘米　　②1000 分米　　③1 千米
2. 一支铅笔原来长 2 分米，用去 1 厘米，还剩下（　　）。
①1 厘米　　②10 厘米　　③19 厘米
3. 世界上最高的山峰是我国的珠穆朗玛峰，高约为 8844（　　）。
①km　　②m　　③dm
4. 数学课本的宽大约是 183（　　）。
①mm　　②cm　　③dm
5. 长分别为 10 米、5000 毫米、1 千米的三条绳子中，最短的是长（　　）的绳子。
①10 米　　②5000 毫米　　③1 千米
6. 把一根 1 米长的绳子平均分成 5 段，每段长（　　）分米。
①4　　②3　　③2

四、在（　　）里填上合适的长度单位。（6 分）


高约 17（　　）


高约 12（　　）


每时约行驶 90（　　）


身高约 130（　　）



故事书厚约 28（　　）



银行卡的厚度约是 1（　　）

五、按要求做题。（共 27 分）

1. 量一量。（先测量，再填写）（每小题 3 分，共 6 分）
（1）（　　）mm


（　　）cm（　　）mm
（　　）cm（　　）mm

（2）（　　）cm（　　）cm（　　）mm


（　　）cm

2. 画一画。（每小题 2 分，共 4 分）
（1）画一条长 2 cm 8 mm 的线段。（2）画一条比 4 cm 短 5 mm 的线段。

关注微信公众号“教辅资料站”获取更多学习资料

3. 连一连。（行1千米需要多长时间）（3分）

步行  1分

乘汽车  15分

骑自行车  4分

4. 比一比。（10分）

30 cm　17 dm　1 km　20 m　100 mm

□ < □ < □ < □ < □

5. 估一估。（每小题2分，共4分）



（1）灿灿家离邮局有多远？（画“√”）

210 m	750 m	3 km

（2）丁丁家离邮局有多远？（画“△”）

1 km	2 km	3 km

六、问题解决。（第3题8分，其余每题5分，共18分）

1. 小文家离“欢乐谷”景点55 km，小文从家出发，步行了一段后，又乘客车行驶了52 km正好到达“欢乐谷”景点，小文步行了多远？

2. 兵兵每天放学回家先要坐公交车行驶4 km，再步行1 km才到家。兵兵每天往返一次。

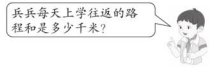

3.

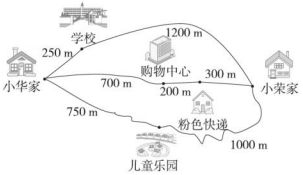

（1）小华家距离（　　）最近。

（2）小荣放学从学校去儿童乐园，最少要走多少千米？

（3）请你提出一个数学问题并解决。

附加题：（10分）

甲瓶和乙瓶哪个高，高多少毫米？

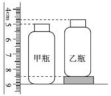

荣德基 品质教辅 微信公众号 教辅资料站
关注微信公众号“教辅资料站”获取更多学习资料

第三单元 跟踪检测卷

三位数的加减法

时间：60 分钟　满分：100 分 +10 分

题号	一	二	三	四	五	六	附加题	总分
得分								

一、填空。（每空 1 分，共 20 分）

1. 在括号里填上合适的数。

（　　）+50 = 650　　（　　）−300 = 460　　730 −（　　）= 30

2. 923 比一个数多 79，这个数是（　　），56 比 290 少（　　）。

3. 最大的三位数与最小的两位数相差（　　）。

4. 百位上的 7 比十位上的 7 多（　　）。

5. 一年级有学生 496 人，二年级有学生 503 人，两个年级大约共有学生（　　）人，估算时，可把 496 看成（　　），把 503 看成（　　）。

6. 把这些算式按得数大小排成一行。

715 + 285　　373 + 427　　700 − 435　　830 − 385

_____ > _____ > _____ > _____

7. 一个三位数减 100，差最大是（　　），最小是（　　）。

8. 一张床现价是 500 元，比原价降低了 256 元，原价是（　　）元。

9. 在横线上填上合适的数、式子或图形。

（1）5，6，7，5，6，7，5，6，_____

（2）2 + 4 = 6，3 + 5 = 8，4 + 6 = 10，_____

（3）□△△□△△□△_____

二、判断。（对的打“√”，错的打“×”）（每题 2 分，共 12 分）

1. 计算加减法时都从高位算起。（　　）

2. 630 比 540 多 90，比 700 少 70。（　　）

3. 在加法中，和比两个加数都大。（　　）

4. 784 − 287 = 497 只能用 287 + 497 = 784 验算。（　　）

5. 一个加数减少 20，另一个加数增加 20，它们的和不变。（　　）

6. 三位数减三位数所得的差一定是三位数。（　　）

三、选择。（将正确答案的序号填在括号里）（每题 2 分，共 10 分）

1. 验算 300 − 253 = 47，正确的方法为（　　）。

①300 + 47　　②47 + 253　　③253 − 47

2. 两个三位数相加，它们的和是（　　）。

①三位数　　②四位数　　③三位数或四位数

3. 一个三位数减去 99，差最小是（　　）。

①100　　②10　　③1

4. 在减法算式中，差（　　）被减数。

①大于　　②小于　　③小于或等于

5. 某菜鸟驿站上周的快递量为 421 件，本周的快递量比上周多 29 件，这两周的快递总量是多少？正确列式是（　　）。

①421 + 29　　②421 + 421　　③421 + 29 + 421

四、计算。（共 31 分）

1. 直接写出得数。（每小题 1 分，共 6 分）

400 − 200 =　　300 + 700 =　　470 + 60 =

750 − 80 =　　72 ÷ 8 =　　540 − 500 =

2. 竖式计算。（带 * 的要验算）（每小题 2 分，共 12 分）

523 − 459 =　　547 + 96 =　　501 − 497 =

*397 + 405 =　　*700 − 494 =　　800 − 375 + 225 =

3. 下面的计算对吗？（对的打“√”，错的打“×”，并改正）（每小题 3 分，共 9 分）

354 + 239 = 583　改正：（　　）

750 − 324 = 436　改正：（　　）

704 − 607 = 103　改正：（　　）

关注微信公众号“教辅资料站”获取更多学习资料

4. 看图写算式。（每小题2分，共4分）

（1）

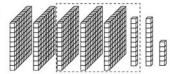

□○□=□

（2）

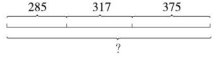

□○□○□=□

五、按要求做题。（第1题4分，第2题5分，共9分）

1. 彭爷爷大约带多少钱去缴费才够？在下面合适的钱数前面的□里画“√”。

□500元　□400元　□300元



2. 已知某快递员一周内（周六、日休息）每天需要送出的快递件数相同，请完成下表。

每天已送快递（件）	230		530		630	
每天剩下快递（件）	700	330		770		



我发现：_____

六、问题解决。（第4题9分，其余每题3分，共18分）

1. 三个同学的身高如图。（单位：cm）

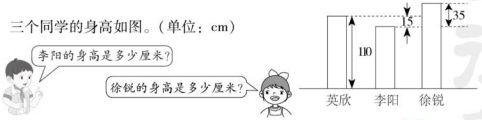

2. 妈妈手机银行里有1000元钱，在网店买这两样物品，够不够？如果够，还剩多少钱？



3.



王伯伯这两年一共收了多少千克苹果？

4. 12位客人。



（1）都坐短凳，需要准备（　　）个。

（2）都坐长凳，需要准备（　　）个。

（3）两种凳子都坐，并且正好坐满，需要准备（　　）个长凳，（　　）个短凳。

附加题：（10分）

双语小学二年级279名同学参加文艺小组和科技小组。



荣德基 品质教辅 微信公众号 教辅资料站
关注微信公众号“教辅资料站”获取更多学习资料

期中 跟踪检测卷

时间：60 分钟　满分：100 分 +10 分

题号	一	二	三	四	五	附加题	总分
得分							

姓名　学号　班级　学校

一、填空。（第 2 题 2 分，其余每空 1 分，共 35 分）

1. 一千里面有（　　）个一百，一百里面有（　　）个十。

2.  写作：（　　）
   读作：（　　）

   

   写作：（　　）
   读作：（　　）

3. 由 5 个百，4 个十和 6 个一组成的数是（　　）；一个数的千位上是 8，个位上是 5，其余各位上都是 0，这个数是（　　），这个数是一个（　　）位数。

4. 在 696，702，720，699 中，（　　）最接近 700。

5. 最大的四位数比最大的三位数多（　　），599 后面的第一个数是（　　）。

6. 用 2，0，8，7 组成不同的四位数，最大的四位数是（　　），最小的四位数是（　　），零要读出来的四位数是（　　）（写出一个即可）。

7. 

   长（　　）cm

   

   长（　　）mm

8. 在○里填上“＞”“＜”或“＝”。

   997 ○ 1082　　2381 ○ 3001　　3000 m ○ 3 km

   4058 ○ 4049　　990 ○ 909　　6 米 ○ 600 分米

9. 5 km =（　　）m　　4000 m =（　　）km

   8 cm =（　　）mm　　40 mm =（　　）cm

   9 m =（　　）dm　　1 dm 3 cm =（　　）cm

   9 千米 − 7000 米 =（　　）米

   3 厘米 5 毫米 + 41 厘米 5 毫米 =（　　）厘米

10. 按规律填数、字母或图形。

    （1）9900，_____，7700，6600，_____。

    （2）☺，☹，☹，☺，☹，☹，☺，_____。

    （3）A，B，A，A，B，A，A，A，B，_____。

    （4）1，2，3，5，8，13，21，_____，_____。

二、判断。（对的打“√”，错的打“×”）（每题 2 分，共 10 分）

1. 2005 读作：二千零零五。（　　）
2. 算盘中的上珠和下珠都是一个珠子表示 1。（　　）
3. 一棵大树高 20 cm。（　　）
4. 读数要从个位开始读。（　　）
5. 比 470 多 90 的数是 380。（　　）

三、选择。（将正确答案的序号填在括号里）（每空 1 分，共 7 分）

1. 6006 读作（　　）。
   ①六千零零六　　②六零零六　　③六千零六

2. 1 把牙刷长约 16（　　）。
   ①dm　　②cm　　③mm

3. 飞机每时飞行 980（　　）。
   ①km　　②m　　③dm

4. 8 □ 27 ＞ 8302，□里最小填（　　）。
   ①3　　②4　　③5

5. 最小的四位数减去（　　）就等于最小的三位数。
   ①1　　②999　　③900

6. 与 5098 相邻的两个数是（　　）和（　　）。
   ①5097　　②5096　　③5099

关注微信公众号“教辅资料站”获取更多学习资料

四、计算。（共 24 分）

1. 直接写出得数。（每小题 0.5 分，共 6 分）

700 + 300 =	570 − 50 =	600 + 300 =	36 ÷ 4 =
480 − 80 =	800 − 90 =	1000 − 600 =	320 + 150 =
600 + 138 =	830 + 170 =	120 − 60 =	90 + 40 =

2. 竖式计算。（带 * 的要验算）（每小题 3 分，共 18 分）

* 465 + 237 =　　* 402 − 157 =　　375 + 96 =

600 − 326 =　　189 + 511 =　　748 + 252 =

五、问题解决。（每题 6 分，共 24 分）

1. 去图书馆。

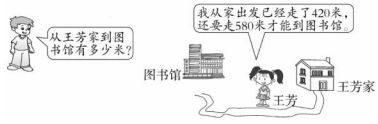

2. 养鸡专业大户李大伯养母鸡 903 只，养公鸡 696 只，养的公鸡比母鸡大约少多少只？

3. 下面是某小学一、二、三年级的学生人数统计情况。

年级	一	二	三
人数	196 人	210 人	

（1）三年级的学生人数比一、二年级学生的总人数少 245 人，三年级有多少人？

（2）如果学校的报告厅有 400 个座位，同时安排二、三年级的学生去听报告，座位够吗？

4. 小西一共有 48 元钱。

（1）只买每把 6 元的伞，可以买几把？



（2）只买每把 8 元的伞，可以买几把？

（3）两种都买，6 元的伞和 8 元的伞可以分别买几把？

附加题：（10 分）

在□里填上合适的数字。

$$\begin{array}{r} 1\square 6 \\ +\ \square 2\square \\ \hline 7\ 4\ 2 \end{array} \qquad \begin{array}{r} 9\square 3 \\ -\ \square 5\ 6 \\ \hline 3\ 6\square \end{array}$$

荣德基 品质教辅 微信公众号 教辅资料站
关注微信公众号“教辅资料站”获取更多学习资料

第四单元 跟踪检测卷

认识图形

时间：60 分钟　满分：100 分 +10 分

题号	一	二	三	四	五	附加题	总分
得分							

一、填空。（每空 2 分，共 26 分）

1. 教室黑板的面是（　　）形，方巾的面是（　　）形。
2. 一个四边形，它有四个直角，它可能是（　　）形，也可能是（　　）形，若它的每条边都相等，则它一定是（　　）。
3. 至少需要（　　）个完全一样的小正方形才能拼成一个较大的正方形。

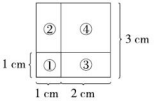

4. （1）图中一共有（　　）个正方形，（　　）个长方形。
   （2）④号是一个（　　）形，边长是(　　)cm。
   （3）③号是一个（　　）形，长是（　　）cm，宽是（　　）cm。

二、判断。（对的打“√”，错的打“×”）（每题 2 分，共 12 分）

1. 四边形只有长方形和正方形。（　　）
2. 长方形和正方形都有四个直角。（　　）
3. 四条边相等的四边形一定是正方形。（　　）
4. 两个三角形一定可以拼成一个平行四边形。（　　）
5. 有 4 个直角的四边形，不是长方形，就是正方形。（　　）
6. 平行四边形的四条边相等。（　　）

三、选择。（将正确答案的序号填在括号里）（每题 2 分，共 8 分）

1. 用七巧板可以拼出（　　）。
   ①一种图案　　②两种图案　　③多种图案
2. 在长方形中，3 条边长分别是 5、7、5，第四条边长是（　　）。
   ①5　　②12　　③7
3. 当长方形的长缩短到与宽同样长时，就变成了（　　）。
   ①长方形　　②正方形　　③三角形
4. 图（　　）沿虚线剪开后不可能拼成平行四边形。

四、操作题。（共 40 分）

1. 分一分。（将序号填在相应的圈里）（14 分）

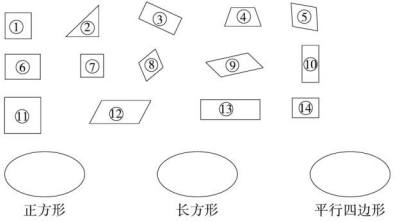

2. 画一画。（每小题 3 分，共 6 分）

（1）在下面的点子图上画一个正方形、一个长方形、一个平行四边形。



（2）按要求在下面的图形中分别画一条虚线。

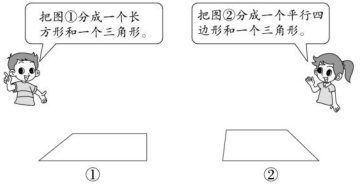

关注微信公众号“教辅资料站”获取更多学习资料

3. 拼一拼。(每小题3分，共6分)

(1) 从下面的图形中选（　　）和（　　）可以拼成一个长方形。



(2) 从下面的图形中选（　　）和（　　）可以拼成一个正方形。



4. 涂一涂。(把正方形涂上黄色，平行四边形涂上红色)(2分)

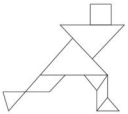

5. 量一量、填一填。(6分)

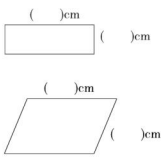

6. 数一数。(6分)

(1)  有（　　）个长方形，（　　）个正方形。

(2) 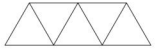 有（　　）个平行四边形。

五、问题解决。(第1题4分，第2题10分，共14分)

1. 一个正方形的边长是6 m，4条边共长多少米？

2. 右图是一张长12 cm，宽4 cm的长方形纸。



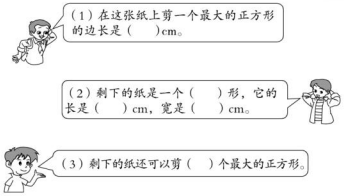

附加题：(10分)



图中有（　　）个长方形，（　　）个正方形，（　　）个平行四边形。

荣德基 品质教辅 微信公众号 教辅资料站
关注微信公众号“教辅资料站”获取更多学习资料

第五单元 跟踪检测卷

有余数的除法

时间：60 分钟　满分：100 分 +10 分

题号	一	二	三	四	五	附加题	总分
得分							

一、填空。（第 8 题 4 分，其余每空 1 分，共 28 分）

1. 39 ÷ 7 = 5……4，这个算式读作：39（　　）7 等于（　　）余（　　），其中 39 是（　　），7 是（　　），5 是（　　），4 是（　　）。

2. □ ÷ 6 = △……☆，☆最大是（　　）。

3. 

这些铅笔每人分 2 支，可分给（　　）个小朋友，还剩（　　）支。

4. 1 条毛巾 7 元，50 元最多可以买（　　）条，还剩（　　）元。

5. □ ÷ △ = 6……4，△最小是（　　）。

6. ○里最大能填几？

6 ×○< 57　　8 ×○< 73　　○× 7 < 43

29 > 4 ×○　　44 >○× 9　　38 > 7 ×○

7. □ ÷ 5 = 7……△，□最大是（　　），如果△是 1，这时□是（　　）。

8. 写出两道余数是 4 的除法算式：

（　　）÷（　　）=（　　）……4

（　　）÷（　　）=（　　）……4

9. 44 ÷ 8 = 5……4 表示（　　）里面最多有（　　）个（　　）。

二、判断。（对的打“√”，错的打“×”）（每题 2 分，共 12 分）

1. 在有余数的除法算式中，除数一定比余数大。（　　）

2. 在△ ÷ 5 = 2……□中，□只能是 4。（　　）

3. 在一个有余数的除法算式中，除数是 6，商是 8，余数最大是 6。（　　）

4. 如果□ ÷ 5 = ☆……△，那么△最小应是 0。（　　）

5. 48 ÷ 7 和 60 ÷ 9 的商相同，余数也相同。（　　）

6. 55 里面最多有 8 个 7，还余 1。（　　）

三、选择。（将正确答案的序号填在括号里）（每题 1 分，共 6 分）

1. △ ÷ ○ = 7……3，○最小是（　　）。

①7　　②4　　③8

2. 下面除以 5 没有余数的数是（　　）。

①16　　②21　　③30

3. 一个数除以 6 有余数，余数不可能是（　　）。

①4　　②5　　③8

4. 把 28 件快递摆放在柜台上，平均摆成 3 行，每行摆几件？还剩几件？正确的算式是（　　）。

①28 ÷ 3 = 9（行）……1（行）　　②28 ÷ 3 = 9（件）……1（件）

③28 ÷ 3 = 9（行）……1（件）

5. 有 37 米长的丝带，打一个中国结需要 8 米，这些丝带最多可打（　　）个中国结。

①3　　②4　　③5

6. 有 38 本作业本，最少拿出（　　）本，剩下的就能平均分给 7 个同学。

①3　　②4　　③5

四、计算。（共 41 分）

1. 直接写出得数。（每小题 0. 5 分，共 4 分）

25 ÷ 5 =	13 ÷ 6 =	7 × 6 =	55 ÷ 9 =
43 ÷ 6 =	64 ÷ 8 =	0 ÷ 7 =	18 ÷ 2 =

2. 连一连。（7 分）



关注微信公众号“教辅资料站”获取更多学习资料

3. 竖式计算。（每小题 3 分，共 18 分）

51 ÷ 7 =　　33 ÷ 7 =　　69 ÷ 8 =

56 ÷ 7 =　　47 ÷ 9 =　　24 ÷ 9 =

4. 下面的计算对吗？对的打“√”，错的打“×”，并改正。（每小题 3 分，共 12 分）

$$\begin{array}{r} 5 \\ 8\overline{)39} \\ 40 \\ \hline 1 \end{array}$$ 改正：（　　）

$$\begin{array}{r} 8 \\ 8\overline{)65} \\ 64 \\ \hline 1 \end{array}$$ 改正：（　　）

$$\begin{array}{r} 4 \\ 7\overline{)36} \\ 28 \\ \hline 8 \end{array}$$ 改正：（　　）

$$\begin{array}{r} 7 \\ 9\overline{)74} \\ 63 \\ \hline 1 \end{array}$$ 改正：（　　）

五、问题解决。（第 4 题 4 分，其余每题 3 分，共 13 分）

1. 买票。

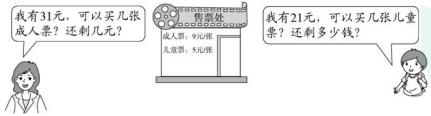

2. 天天水果店昨天运来 47 箱苹果，准备送到 5 个摊位，要使每个摊位的苹果同样多，至少留下几箱暂时不送？

3. 小区附近有 13 辆共享单车。如果每 4 辆单车摆放成 1 行，不够 1 行的推到别的地方去。

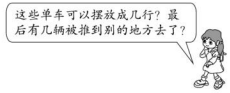

4. 20 名女生和 18 名男生去划船。



附加题：（10 分）

$$\begin{array}{r} \square \\ 5\overline{)2\ \triangle} \\ \star\ 5 \\ \hline \star \end{array}$$

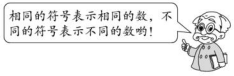

□ = _____　　△ = _____　　☆ = _____

荣德基 品质教辅 微信公众号 教辅资料站
关注微信公众号“教辅资料站”获取更多学习资料

第六、七单元 跟踪检测卷

时、分、秒　收集与整理

时间：60 分钟　满分：100 分 +10 分

题号	一	二	三	四	五	六	附加题	总分
得分								

一、填空。（第 7 题 7 分，其余每空 1 分，共 37 分）

1. 我们常用的时间单位有（　　）、（　　）、（　　）。
2. 分针从“5”走到“9”走了（　　）分。
3. 一节课是 40 分，课间休息 10 分，再加上（　　）分就是 1 时。
4. 中午时针和分针重合，并指向钟面上的（　　），是（　　）时。
5. 一列火车 2：50 进站，3：20 发车，中间停车（　　）分。
6. 现在是上午 11 时，再过 2 时是（　　）时。
7. 120 分 =（　　）时　　1 时 40 分 =（　　）分　　（　　）秒 =3 分
   66 秒 =（　　）分（　　）秒　　2 分 10 秒 =（　　）秒
   5 时 35 分 +25 分 =（　　）时　　80 分 =（　　）时（　　）分
8. 看图填一填。

（1）○ ■ ▲ ○ □ ● △ ● ▲ △ ○ ▲ ● △ ■

①按照形状分，可以分为（　　）类，圆有（　　）个，正方形有（　　）个，三角形有（　　）个。

②按照颜色分，可以分为（　　）类，白色有（　　）个，黑色有（　　）个。

（2）



8：45 结束

扫地用了（　　）分。



8：50 ~ 9：35

购物用了（　　）分。

9. 在（　　）里填上时、分或秒。



从家到学校

约 15（　　）



跑 50 m

约 11（　　）



做 7 道口算题

约 1（　　）



爸爸每天工作

8（　　）



每天大约睡

9（　　）



跳 160 下

约 3（　　）

10. 在◯里填上“ > ”“ < ”或“ = ”。

3 时 ◯ 45 分　　1 时 35 分 ◯ 80 分　　120 秒 ◯ 2 分

2 时 ◯ 200 分　　半小时 ◯ 30 分　　90 秒 ◯ 9 分

二、判断。（对的打“√”，错的打“×”）（每题 2 分，共 10 分）

1. 3 时 =300 分。（　　）
2. 时针走 1 圈经过的时间是 12 时。（　　）
3. 秒针走 1 小格是 1 秒，走 4 圈是 4 分。（　　）
4. 小江跑 100 米需要 10 分钟。（　　）
5. 8：45 也可以说是 9 时差 55 分。（　　）

三、选择。（将正确答案的序号填在括号里）（每题 2 分，共 10 分）

1. 从 12 开始，（　　）针走一圈正好是 1 时。
   ①时　　②分　　③秒
2. 百货大楼早上 8：00 开门，晚上 8：00 关门，全天共营业（　　）。
   ①10 时　　②12 时　　③14 时
3. 时、分、秒每相邻两个单位间的进率是（　　）。
   ①10　　②100　　③60
4. 双湖小学早上（　　）上课。
   ①8 时 5 分　　②8 时 5 秒　　③8：5
5. 洋洋每天早上 7：00 起床，昊昊每天早上 6：50 起床，（　　）起得早。
   ①洋洋　　②昊昊　　③不能确定是谁

关注微信公众号“教辅资料站”获取更多学习资料

四、操作题。（第1题4分，第2题9分，共13分）

1. 写一写。



：　　：　　：　　：

（　）时　（　）时　（　）时　超过（　）时，

（　）分　（　）分　差（　）分　不到（　）时

2. 填一填，画一画。



（1）认真数一数，再填一填。

图形	○	△	□	▭
个数（个）				

（2）根据上面的数据完成下面的统计图。

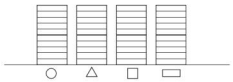

（3）一共有（　）个图形。

五、森林运动会。（第1题4分，其余每空1分，共9分）

1. 请你帮运动员们按时间的先后顺序找一找座位。（连一连）



①

②

③

④

2.（　）最先到，（　）最后到。

3. 老虎是（　）时（　）分到的，兔子比松鼠早到（　）分。

六、问题解决。（第3题5分，第4题8分，其余每题4分，共21分）

1. 爷爷早上7时20分去中央公园锻炼身体，在公园里锻炼了2时30分。



2. 我从家到书店要15分钟，想在早上8：00之前到书店。

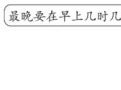

3. 丁叔叔每时送9件快递，他从上午8：10开始送，到上午11：10结束。



4. 下面是二（2）班同学喜欢的体育活动情况。

体育活动类别	打篮球	踢足球	跑步	跳绳	打乒乓球
人数（人）	正丅	正下	丅	正正	正正正

（1）根据上面的统计结果完成下表。

体育活动类别	打篮球	踢足球	跑步	跳绳	打乒乓球
人数（人）					

（2）喜欢（　）的人数最多，喜欢（　）的人数最少。

（3）喜欢跳绳的比喜欢打篮球的多（　）人。

（4）请你再提出一个数学问题并解答。

附加题：（10分）

妈妈每天早上8时30分上班，下午6时30分下班，妈妈从上班到下班相隔了多长时间？

荣德基 品质教辅 微信公众号 教辅资料站
关注微信公众号“教辅资料站”获取更多学习资料



期末总复习 模块过关卷(一)

数与代数　统计

时间：60 分钟　满分：100 分 +10 分

题号	一	二	三	四	五	六	附加题	总分
得分								

姓名　学号　班级　学校

一、填空。(每空 1 分，共 29 分)

1. 

写作：(　　)　　写作：(　　)

读作：(　　)　　读作：(　　)

2. 4699 是 (　　) 位数，它的最高位是 (　　) 位。与这个数相邻的两个数是 (　　) 和 (　　)。

3. 在□ ÷ 7 = 5……△中，余数最大是 (　　)。

4. 1 分 35 秒 = (　　) 秒　　4 时 = (　　) 分

130 分 = (　　) 时 (　　) 分

5. 用 2，6，0，0 组成最小的四位数是 (　　)，组成一个零也不读的四位数有 (　　)、(　　)，组成只读一个零的四位数有 (　　)、(　　)、(　　)、(　　)。

6. □里最大能填几？

5 × □ < 50　　□ × 7 < 36　　3078 > 30 □ 9

7. 按从小到大的顺序排一排。

(1) 5700　6080　5599　6104　5578

(2) 3 分 50 秒　300 分　3 时　300 秒

8. 按规律填一填。

(1) 2070，2080，2090，(　　)，(　　)。

(2) 24，20，16，(　　)，(　　)。

二、判断。(对的打“√”，错的打“×”)(每题 1 分，共 5 分)

1. 326 比 275 多 601。(　　)
2. 626 中的两个 6 都表示 6 个一。(　　)
3. 从北京到重庆坐火车需要用 20 分钟。(　　)
4. 钟面上共有 12 个大格，60 个小格。(　　)
5. 6 米和 600 毫米同样长。(　　)

三、选择。(将正确答案的序号填在括号里)(每题 2 分，共 8 分)

1. 20 里面最多有 (　　) 个 3。
①4　②5　③6
2. 一个数除以 6 有余数，这个数可能是 (　　)。
①18　②6　③7
3. 甲数是 516，比乙数少 309，乙数是多少？列式为 (　　)。
①516 + 309　②516 − 309　③309 + 309
4. 14 人划船，每条船限乘 4 人，至少需要租 (　　) 条船。
①3　②4　③5

四、计算。(共 33 分)

1. 直接写出得数。(每小题 0.5 分，共 3 分)

300 + 400 =　　920 + 80 =　　670 − 570 =

57 ÷ 8 =　　550 − 500 =　　21 ÷ 5 =

2. 竖式计算。(带 * 的要验算)(每小题 3 分，共 18 分)

62 ÷ 9 =　　573 + 227 =　　903 − 507 =

* 346 + 587 =　　* 700 − 299 =　　428 − 219 + 357 =

荣德基 微信公众号 教辅资料站

关注微信公众号“教辅资料站”获取更多学习资料

3. 在□里填上合适的数字。（每小题3分，共12分）

1□3	2□7	9□3	2□5
+□6□	+□9□	−□5 7	−□8□
4 9 2	8 5 3	4 6□	9 7

五、操作题。（共13分）

1. 下面是二（3）班同学上学期期末数学成绩的统计情况。（每小题3分，共9分）

100分：下　　90～99分：正正正一　　80～89分：正正正

70～79分：正　　60～69分：下　　60分以下：一

（1）根据以上统计结果填写下表。

成绩	100分	90～99分	80～89分	70～79分	60～69分	60分以下
人数（人）						

（2）用一个△代替一个同学，画一画。

100分　90～99分　80～89分　70～79分　60～69分　60分以下

（3）二（3）班一共有（　　）人，得（　　）分的人数最多，得（　　）的人数最少。

2. 根据钟面上的时刻分别画出时针和分针。（4分）


5：05


3时35分


11：30


7时差5分

六、问题解决。（第3题6分，其余每题3分，共12分）

1. 李师傅要做467个零件，做了一些后，还需做68个零件正好做完，李师傅已经做了多少个零件？

2.



3. 某菜鸟驿站5·1劳动节收到快递情况如下：

快递名称	顺丰快递	韵达快递	申通快递
快递量（件）	202	295	499

（1）该菜鸟驿站大约收到多少件快递？在你认为合适的件数后面的（　　）里画“√”。

800件（　　）　　900件（　　）　　1000件（　　）

（2）申通快递的快递量比顺丰快递和韵达快递的总快递量还多几件？

（3）顺丰快递还差几件快递就和韵达快递同样多？

附加题：（10分）

二（2）班有44名同学去乘车，现在有两种车可供租用。

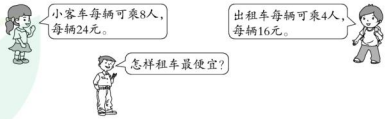

关注微信公众号“教辅资料站”获取更多学习资料

期末总复习 模块过关卷(二)

图形与几何

时间：60 分钟　满分：100 分 +10 分

题号	一	二	三	四	五	六	附加题	总分
得分								

姓名　学号　班级　学校

一、填空。（第 1 题 6 分，第 7 题 8 分，其余每空 1 分，共 34 分）

1. 在长方形下面的括号里画“○”，在正方形下面的括号里画“△”，在平行四边形下面的括号里画“☆”。

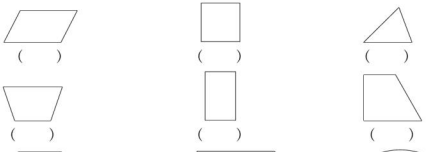

（　　）　（　　）　（　　）

（　　）　（　　）　（　　）

（　　）　（　　）　（　　）

2. 5 km =（　　）m　　450 mm =（　　）cm　　3000 m =（　　）km

3. 在◯里填上“ > ”“ < ”或“ = ”。

5 cm ◯ 7 mm　　1 m ◯ 100 cm　　3 dm ◯ 23 mm

7 cm ◯ 700 mm　　6 km ◯ 5000 dm　　7 m + 8 m ◯ 13 km

4. 在括号里填上合适的单位。



身高约 125（　　）　衣柜高约 2（　　）　课桌高约 8（　　）

5. 填长度。



（　　）

（　　）



（　　）cm

6. 右图的七巧板中，（　　）号板是正方形，②号板和（　　）号板可以拼成一个正方形，（　　）号板是平行四边形，③号板和（　　）号板可以拼成一个平行四边形，⑦号板是（　　）形。



7. 按规律画一画。

（1）□ ▱ □ ▱ ▱ □ □ ▱ ▱ ▱　＿＿ ＿＿ ＿＿ ＿＿ ＿＿

（2）△○□▲●▱ △○□▲●▱　＿＿ ＿＿ ＿＿ ＿＿ ＿＿

二、判断。（对的打“√”，错的打“×”）（每题 2 分，共 10 分）

1. 正方形比平行四边形大。（　　）
2. 1 m 比 100 mm 短。（　　）
3. 用 6 个完全相同的小正方形可以拼成一个大正方形。（　　）
4. 小军家所在的小区的大楼高 18 km。（　　）
5. 1 千米比 999 米短很多。（　　）

三、选择。（将正确答案的序号填在括号里）（每题 2 分，共 10 分）

1. 平行四边形的（　　）相等。

①四个角　　②四条边　　③对边

2. 爸爸 1 时行 85 千米，爸爸是（　　）。

①乘汽车　　②骑摩托车　　③步行

3. 用（　　）个可以拼成 1 个。

①6　　②8　　③10

4. 63 mm + 37 mm =（　　）cm。

①100　　②10　　③1

5. 在 2000 mm、200 cm、2 km 中，最长的是（　　）。

①2000 mm　　②200 cm　　③2 km

四、操作题。（共 21 分）

1. 量一量。（5 分）



（　　）mm　（　　）cm（　　）mm



（　　）cm　（　　）cm

2. 数一数，填一填。（4 分）

右图有（　　）个长方形，（　　）个正方形，（　　）个平行四边形，（　　）个三角形。



关注微信公众号“教辅资料站”获取更多学习资料

3. 画一画。(每小题2分，共8分)

(1) 接着画，得到一个长方形。



(2) 接着画，得到一个正方形。



(3) 接着画，使它们均成为平行四边形。



(4) 在下面的图形中画上一条线，将它分成一个平行四边形和一个三角形。

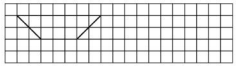

4. 分一分。(每小题2分，共4分)

(1) 把下面的图形分成两个平行四边形。



(2) 把下面的图形分成一个三角形和一个平行四边形。



五、先算一算，再填空。(7分)

53 mm + 47 mm = (　　) mm = (　　) cm

(　　) km + (　　) m = 5000 m

780 cm − 180 cm = (　　) cm = (　　) m

10 km − (　　) m = 3000 m

六、问题解决。(第3题10分，其余每题4分，共18分)

1. 乐乐在家门口扫码骑车上学。

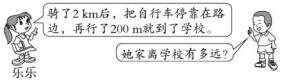

2. 妈妈收到两件快递。

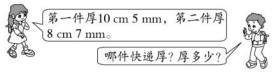

3. (1) 文文从家出发经过餐厅到百货大楼，再按原路返回家中，来回要走多少千米？



(2) 文文从家出发去动物园，走哪条路最近？最近是多少千米？

附加题：(10分)

数一数，下图中长方形和正方形各有多少个。



(　　) 个正方形。

(　　) 个长方形。

荣德基 品质教辅

关注微信公众号“教辅资料站”获取更多学习资料



期末总复习

仿真模拟卷（一）

时间：60 分钟　满分：100 分 +10 分

题号	一	二	三	四	五	六	附加题	总分
得分								

一、填空。（第 4 题 6 分，其余每空 1 分，共 28 分）

1. 9037 里面有（　　）个千，（　　）个十和（　　）个一。
2. 与 999 相邻的两个数是（　　）和（　　）。
3. 一个四位数，最高位和十位上都是 7，其余各位上都是 0，这个数写作（　　），读作（　　）。
4. 3 分 =（　　）秒　　240 分 =（　　）时
   1 分 35 秒 =（　　）秒　　4600 m =（　　）km（　　）m
   3 cm 7mm =（　　）mm　　6 km =（　　）m
5. 在（　　）里填上合适的单位。
   语文书厚约 8（　　）。　　兰兰跑 60 米需要 13（　　）。
   一支铅笔约长 20（　　）。　　火箭每秒飞行约 4500（　　）。
6. 在□ ÷ △ = ☆……4 中，△最小是（　　）。
7. （　　）里最大能填几？
   （　　）×9 < 46　　8 ×（　　）< 50　　5（　　）8 < 547
8. 一根绳子长 10 m，王冬做两根跳绳各用去 2 m，还剩（　　）m。
9. 按规律写数或画图。
   （1）36，32，28，（　　），（　　）。
   （2）△○○○，△○○○，（　　）。
10. 爸爸每天从开始上班，到下班，中午休息 1 时，爸爸一天的工作时间是（　　）时。
11. 两个边长均为 1 cm 的小正方形拼成的长方形的长为（　　）cm，宽为（　　）cm。

二、判断。（对的打“√”，错的打“×”）（每题 2 分，共 10 分）

1. 读 5009 时要读两个零。（　　）
2. 长方形的对边相等，平行四边形的对边也相等。（　　）
3. 1000 是最大的四位数。（　　）
4. 被减数减少 50，减数增加 50，它们的差不变。（　　）
5. 在△ ÷ 7 = □……☆中，☆可能是比 7 大的数，也可能就是 7。（　　）

三、选择。（将正确答案的序号填在括号里）（每题 2 分，共 10 分）

1. 如右图，算盘上表示的数是（　　）。
   ①9090　　②909　　③9009
2. 数中间只写一个“0”的是（　　）。
   ①三千零四　　②三千二百四十　　③三千一百零四
3. 由 7 个千，3 个百和 3 个一组成的数是（　　）。
   ①733　　②7303　　③7033
4. 分针从 12 走一圈到 12 是（　　）分。
   ①60　　②40　　③12
5. 在 400 米赛跑中，涂敏用了 1 分 10 秒，张梅用了 1 分 20 秒，李磊用了 1 分 15 秒，（　　）跑得最快。
   ①涂敏　　②张梅　　③李磊

四、计算。（共 21 分）

1. 直接写出得数。（每小题 0.5 分，共 3 分）
   700 + 300 =　　370 − 300 =　　5 × 7 + 5 =
   56 ÷ 8 =　　640 − 70 =　　43 ÷ 8 =
2. 竖式计算。（带 * 的要验算）（每小题 3 分，共 18 分）
   306 + 498 =　　300 − 246 =　　67 ÷ 7 =
   * 567 + 178 =　　* 806 − 499 =　　414 + 493 − 719 =

荣德基　好点题系列　请不要在答题内容区域作答

关注微信公众号“教辅资料站”获取更多学习资料

五、操作题。（第 1 题 2 分，第 2 题 10 分，共 12 分）

1. 在下图中画一条线把它分成一个三角形和一个平行四边形。



2. 按要求完成下面各题。





（1）按不同的方法整理。

①

颜色	白色	黑色
个数（个）		

②

形状	长方形	正方形	三角形	圆
个数（个）				

（2）用符号△代替图形画一画。

长方形　正方形　三角形　圆

六、问题解决。（第 1 题 3 分，第 4 题 8 分，其余每题 4 分，共 19 分）

1. 超市理货员今天收到 48 件商品，每 9 件放一层。



2. 航模比赛从下午 2：15 开始，进行 40 分，航模比赛是什么时候结束的？

3. 一件毛衣的价格是 396 元，一件羽绒服比一件毛衣贵 157 元，买一件毛衣和一件羽绒服一共需要多少钱？

4. （1）一辆汽车从甲地出发经乙地、丙地到丁地，一共行驶了多少千米？



（2）从乙地到甲地的路程比从乙地经丙地到丁地的路程少多少千米？

附加题：（10 分）

军军家养有黑山羊、白山羊、灰山羊共 95 只。

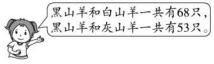

荣德基品质教辅

关注微信公众号“教辅资料站”获取更多学习资料

期末总复习

仿真模拟卷（二）

时间：60 分钟　满分：100 分 +10 分

题号	一	二	三	四	五	六	附加题	总分
得分								

一、填空。（每空 1 分，共 33 分）

1. 看图写数。

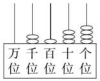

（　　）

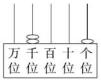

（　　）

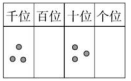

（　　）

2. △ ÷4 = ☆……□，□最大是（　　）。

3. 30 km =（　　）m　2 dm 3 cm =（　　）cm　1 分 27 秒 =（　　）秒
3 时 =（　　）分　　86 mm − 36 mm =（　　）mm =（　　）cm

4. 898 前面的两个数是（　　）和（　　）。

5. 用 8，6，0，2 这四个数字组成的最大四位数是（　　），组成的最小四位数是（　　）。

6. 在◯里填上“ > ”“ < ”或“ = ”。

1020 ◯ 999　　2342 ◯ 2423　　3099 ◯ 2923

6 km ◯ 600m　　70 mm ◯ 7 cm　　65 分 ◯ 1 时

7. 一个数，千位上的数字是 4，十位上的数字比千位上的数字大 1，其余各位上的数字都是 0，这个数是（　　），读作（　　）。

8. 按规律填空。

（1）2670，2770，2870，（　　），（　　）。

（2）

1	1		2	4		3	9			16		5	

（3）◯ ⬠ □（　　）

9. 汉渝路小学二年级有学生 356 人，三年级有学生 547 人，两个年级大约有（　　）人。

10. 图中有（　　）个长方形，有（　　）个正方形，有（　　）个平行四边形。



11. 娜娜中午 12：00 放学回家，上午在校 4 时 10 分，她是早上（　　）时（　　）分到校的。

二、判断。（对的打“√”，错的打“×”）（每题 1 分，共 6 分）

1. 6500 和 9080，这两个数都是一个零也不读出来。（　　）
2. 分针从上午 10 时走到下午 4 时，走过了 20 分。（　　）
3. 被减数和减数都增加 20，差也增加 20。（　　）
4. 最小的四位数比最大的三位数大 1。（　　）
5. 1000 m 比 1 km 长。（　　）
6. 40 ÷ 8 = 4……8（　　）

三、选择。（将正确答案的序号填在括号里）（每题 1 分，共 6 分）

1. 我们使用的 1 角硬币的厚度大约是 2（　　）。
①mm　　②cm　　③dm

2. 下面的数中，最接近 3000 的数是（　　）。
①2990　　②3100　　③3001

3. 三位数加三位数，和是（　　）。
①三位数　　②四位数　　③三位数或四位数

4. 课间操是 20 分，与 1 时相差的时间是（　　）。
①10 分　　②40 分　　③80 分

5. 19 件快递，平均分给 3 个快递员送，每个快递员最多送（　　）件。
①5　　②6　　③7

6. 370 减去（　　）的差是二百多。
①七十几　　②七十　　③六十几

四、计算。（共 24 分）

1. 直接写出得数。（每小题 1 分，共 6 分）

6 × 8 =　　380 − 150 =　　71 ÷ 8 =

128 + 500 =　　600 + 400 =　　36 ÷ 9 =

2. 竖式计算。（带 * 的要验算）（每小题 3 分，共 18 分）

*257 + 398 =　　*486 − 187 =　　500 − 356 =

荣德基 荣誉出品

关注微信公众号“教辅资料站”获取更多学习资料

265 + 335 =　　80 ÷ 9 =　　747 + 96 =

五、操作题。（第 1 题 8 分，第 2 题 5 分，共 13 分）

1. 根据下面的时间，画出时针和分针。


3：55


6：00


8：15


6：30

2. 在方格图上分别涂一个长方形，一个正方形和一个平行四边形。



量一量，你画的正方形的边长是（　　）mm。

六、问题解决。（第 1~3 题每题 3 分，第 4 题 9 分，共 18 分）

1. 包装一件快递需要 8 分米胶带。

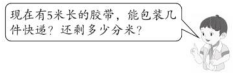

2. 二年级的同学给小树浇水，两个班一共浇了多少棵？



3. 工地上运来 980 kg 石子，上午用了 434 kg，下午用了一些后，还剩 256 kg，下午用了多少千克？

4. 某网店 5 月 2 日卖出的电器数量如下：

名称	电冰箱	洗衣机	空调
数量（台）	9	5	8

（1）请你根据上面的统计表完成下面的统计图。

某网店 5 月 2 日卖出的电器数量统计图

电冰箱　　洗衣机　　空调

（2）这一天卖的电器中，（　　）最多，（　　）最少。

（3）如果这些电冰箱共赢利 538 元，洗衣机共赢利 223 元，空调共赢利 239 元，那么这一天该网店共赢利多少钱？

（4）你还能提出什么数学问题？提出一个并解答。

附加题：（10 分）

有一瓶水连瓶共重 320 克，倒出一半水后连瓶重 170 克。



荣德基 品质教辅
自己说说
老师点评
家长点评
关注微信公众号“教辅资料站”获取更多学习资料



期末总复习

仿真模拟卷（三）

时间：60 分钟　满分：100 分 +10 分

题号	一	二	三	四	五	六	附加题	总分
得分								

一、填空。（第 8 题 2 分，其余每空 1 分，共 30 分）

1. 1007 读作（　　），它是由（　　）个千和 7 个（　　）组成的。

2. 2348 = 2000 + 300 + 40 + 8，2090 =（　　）+（　　）。

3. 选择正确的序号填在相应的括号里。



长方形有（　　），正方形有（　　），平行四边形有（　　）。

4. 在括号里填合适的单位。



长约 16（　　）　厚度约 3（　　）　高约 1（　　）　每分约飞行 13（　　）

5. 在○里填上“ > ”“ < ”或“ = ”。

4001 ○ 3998　　8 mm ○ 1 cm　　6 km ○ 6400 m

200 分 ○ 2 时　　10000 m ○ 10 km　　862 − 300 ○ 320 + 275

6. 用 0，2，5，7 组成不同的四位数，其中最大的数是（　　），最小的数是（　　）。

7. 比一比。

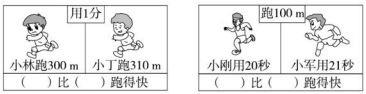

8. 在（　　）÷（　　）= 5……5 中，除数最小是（　　），此时被除数是（　　）。

9. 有一串珠子，按“二黑三白”排列：●●○○○●●○○○●●○○○……第 38 个珠子是（　　）色的。

10. 把下表补充完整。

	水（立方米）	电（千瓦时）	气（立方米）
上月底的读数	168	778	395
本月底的读数	217	925	460
本月使用数			

二、判断。（对的打“√”，错的打“×”）（每题 2 分，共 10 分）

1. 36 ÷ 5 = 6……6　　（　　）

2. 一个三位数加另一个三位数的和一定是一个四位数。　　（　　）

3. 四条边相等，四个角都是直角的图形是正方形。　　（　　）

4. 6705 和 7605 中的“7”表示的意义是相同的。　　（　　）

5. 有 23 个杯子，每盒装 5 个，至少需要准备 5 个盒子。　　（　　）

三、选择。（把正确答案的序号填在括号里）（每题 2 分，共 10 分）

1. 如图□◆□○●▲△▽，按（　　）可以分成两类。

①大小　　②形状　　③颜色

2. 小佳 7：50 从家出发到天天快递取快递，他 8：20 到达天天快递，小佳从家到天天快递用了（　　）。

①70 分　　②30 分　　③1 时 30 分

3. 下列说法错误的是（　　）。

①马拉松长跑比赛全程约 42 千米　　②汽车每小时行 900 米

③四千零九　写作：4009

4. 左图里面有（　　）个正方形。

①9　　②5　　③4

5. （　　）个最小四位数的和是最小五位数。

①10　　②100　　③1000

四、计算。（共 30 分）

1. 直接写出得数。（每小题 0. 5 分，共 3 分）

400 + 300 =　　270 + 230 =　　5 × 6 =

470 − 70 =　　70 − 15 =　　56 ÷ 9 =

关注微信公众号“教辅资料站”获取更多学习资料

2. 用竖式计算。（带 * 的要验算）（每小题 3 分，共 27 分）

349 + 458 =　　713 − 409 =　　78 ÷ 9 =

500 − 246 =　　* 413 − 348 =　　* 675 + 228 =

700 − 143 + 96 =　　457 + 276 − 689 =　　734 − 189 − 357 =

五、按要求做题。（第 1 题 4 分，第 2 题 6 分，共 10 分）

1. 将相应的时间连起来。

3 时 42 分	8：15	8 时差 5 分	刚过 9 时






2. 二（4）班一周阅读课外读物的情况如下。

书名	作文大本营	漫画大全	故事大全	学语文之友
册数（册）	9	8	6	4

（1）根据统计情况完成统计图。

二（4）班一周阅读课外读物情况统计图

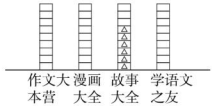

（2）二（4）班一周一共阅读了多少册课外读物？

六、问题解决。（第 3 题 4 分，其余每题 3 分，共 10 分）

1. 工地上原有 512 袋水泥。昨天用了 185 袋，今天用了 225 袋。



2. 钉扣子。50 颗扣子，能钉多少件上衣？还剩几颗？



3. 图书室运来一批图书。这批图书中连环画有 375 本，其余的都是故事书。



附加题：（10 分）

好又来服装店特大优惠。

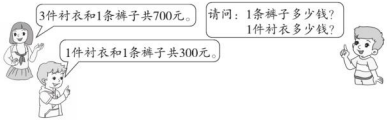

荣德基 品质教辅

关注微信公众号“教辅资料站”获取更多学习资料

参考答案及点拨（大卷）

第一单元跟踪检测卷

万以内数的认识

一、1. 7　千　4　一　5200

2. 7898　7900

3. 4805　四　千

4. 9009　九千零九

5. 3000　9999

6. 7　6　十　一　7648

7. （1）598　600　601　（2）2366　2356

8. <　<　=　>

9. 7030　7130

二、1. ×　2. √　3. ×　4. ×　5. ×

三、1. ③　2. ②　3. ③　4. ②

5. ①　[点拨] 这四个数分别是705、750、570、507。

四、

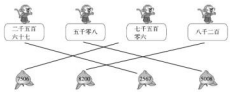

五、1. 九千六百七十五　八千四百五十五千零二十三

2.

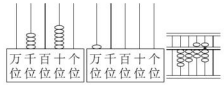

3. 5001　2304

4. 刘佳　姚东　吴萍　黄明

六、1.

100 颗	200 颗	400 颗
	√	

2.

	2300 元	800 元	100 元
床	√		
柜子		√	
椅子			√

3. （1）

三位数	486 879 998

四位数	1600　2005 8942　7987

（2）①998　8942　②486　879

③8000　900　40　1000　600

（3）486 < 879 < 998 < 1600 < 2005 < 7987 < 8942

附加题：（1）9876　（2）1023　（3）9870

（4）1023

第二单元跟踪检测卷

千米的认识

一、1. 6　25　36

2. 1

3. km　mm

4. 1

5. 70　3　4　8000　800　1

6. >　>　<　=　=　>

7. 3000　1　9000　1

8. 50　5

[点拨] 彩带全长的一半是20 + 5 = 25（分米）。

二、1. ×　2. √　3. ×　4. ×　5. √

6. ×

三、1. ③　2. ③　3. ②　4. ①　5. ②

6. ③

四、分米　米　千米　厘米　毫米　毫米

五、1.（1）15　1　6　2　5

（2）1　2　8　3

2.（1）

（2）

3.

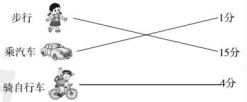

4. 100 mm < 30 cm < 17 dm < 20 m < 1 km

5.（1）

210 m	750 m	3 km
√		

（2）

1 km	2 km	3 km
△		

六、1. 55 − 52 = 3（km）

答：小文步行了3 km。

2. 4 + 1 = 5（km）　5 × 2 = 10（km）

答：兵兵每天上学往返的路程和是10 km。

[点拨] 先算出兵兵每天放学回家走的路程，再算出往返的路程和。

3.（1）学校

（2）250 + 750 = 1000（m）　1000 m = 1 km

答：最少要走1 km。

（3）略

附加题：甲瓶：90 − 50 = 40（mm）

乙瓶：85 − 47 = 38（mm）

40 − 38 = 2（mm）

答：甲瓶高，高2 mm。

[点拨] 先算出甲瓶和乙瓶各有多高，再算出高多少毫米。

第三单元跟踪检测卷

三位数的加减法

一、1. 600　760　700

2. 844　234

3. 989

4. 630

5. 1000　500　500

6. 715 + 285　373 + 427　830 − 385

700 − 435

7. 899　0

[点拨] 三位数最大是999，差最大是999 − 100 = 899，三位数最小是100，差最小是100 − 100 = 0。

8. 756

9.（1）7

（2）5 + 7 = 12

（3）△

关注微信公众号“教辅资料站”获取更多学习资料

二、1. × 2. √ 3. × 4. × 5. √

6. ×

三、1. ② 2. ③ 3. ③ 4. ③ 5. ③

四、1. 200 1000 530 670 9 40

2. 523 − 459 = 64　547 + 96 = 643

$$\begin{array}{r} 5\,2\,3 \\ -\,4\,5\,9 \\ \hline 6\,4 \end{array} \qquad \begin{array}{r} 5\,4\,7 \\ +\,9\,6 \\ \hline 6\,4\,3 \end{array}$$

501 − 497 = 4

$$\begin{array}{r} 5\,0\,1 \\ -\,4\,9\,7 \\ \hline 4 \end{array}$$

397 + 405 = 802

$$\begin{array}{r} 3\,9\,7 \\ +\,4\,0\,5 \\ \hline 8\,0\,2 \end{array}$$ 验算：$$\begin{array}{r} 4\,0\,5 \\ +\,3\,9\,7 \\ \hline 8\,0\,2 \end{array}$$

700 − 494 = 206

$$\begin{array}{r} 7\,0\,0 \\ -\,4\,9\,4 \\ \hline 2\,0\,6 \end{array}$$ 验算：$$\begin{array}{r} 2\,0\,6 \\ +\,4\,9\,4 \\ \hline 7\,0\,0 \end{array}$$

800 − 375 + 225 = 650

$$\begin{array}{r} 8\,0\,0 \\ -\,3\,7\,5 \\ \hline 4\,2\,5 \end{array} \qquad \begin{array}{r} 4\,2\,5 \\ +\,2\,2\,5 \\ \hline 6\,5\,0 \end{array}$$

3. × 改正：$$\begin{array}{r} 3\,5\,4 \\ +\,2\,3\,9 \\ \hline 5\,9\,3 \end{array}$$

× 改正：$$\begin{array}{r} 7\,5\,0 \\ -\,3\,2\,4 \\ \hline 4\,2\,6 \end{array}$$

× 改正：$$\begin{array}{r} 7\,0\,4 \\ -\,6\,0\,7 \\ \hline 9\,7 \end{array}$$

4. （1）525 − 310 = 215

（2）285 + 317 + 375 = 977

五、1. √ 400 元

2. 600 160 400 300

每天已送快递的件数 + 每天剩下快递的件数 = 930 件

六、1. 110 − 15 = 95（cm）

95 + 35 = 130（cm）

答：李阳的身高是 95 cm。徐锐的身高是 130 cm。

2. 1000 − 680 = 320（元）

320 − 260 = 60（元）

或 680 + 260 = 940（元）

1000 − 940 = 60（元）

答：在网店买这两样物品够，还剩 60 元。

3. 315 + 170 = 485（kg）　315 + 485 = 800（kg）

答：王伯伯这两年一共收了 800 kg 苹果。

4. （1）6 （2）4 （3）2 3

附加题：149 + 198 = 347（人）

347 − 279 = 68（人）

答：两个课外小组都参加的有 68 人。

[点拨] 先算出文艺小组和科技小组的总人数，然后减去二年级的人数，即可求解。

期中跟踪检测卷

一、1. 10 10

2. 1510 一千五百一十 5240 五千二百四十

3. 546 8005 四

4. 699

5. 9000 600

6. 8720 2078 2807（最后一空答案不唯一）

7. 3 75

8. < < = > > <

9. 5000 4 80 4 90 13 2000 45

10. （1）8800 5500

（2）

（3）∧

（4）34 55

二、1. × 2. × 3. × 4. × 5. ×

三、1. ③ 2. ② 3. ① 4. ① 5. ③

6. ① ③

四、1. 1000 520 900 9 400 710 400 470 738 1000 60 130

2. 702 245 471 274 700 1000（竖式及验算略）

五、1. 420 + 580 = 1000（米）

答：从王芳家到图书馆有 1000 米。

2. 900 − 700 = 200（只）

答：养的公鸡比母鸡大约少 200 只。

3. （1）196 + 210 = 406（人）

406 − 245 = 161（人）

答：三年级有 161 人。

（2）210 + 161 = 371（人） 371 < 400

答：座位够。

4. （1）48 ÷ 6 = 8（把）

答：可以买 8 把。

（2）48 ÷ 8 = 6（把）

答：可以买 6 把。

（3）48 = 24 + 24　24 ÷ 6 = 4（把）

24 ÷ 8 = 3（把）

答：6 元的伞可以买 4 把，8 元的伞可以买 3 把。

附加题：1 □1 6　+ □6 2 □6 = 7 4 2

9 □2 3　− □5 5 6 = 3 6 □7

第四单元跟踪检测卷

认识图形

一、1. 长方 正方

2. 长方 正方 正方形

3. 4

4. （1）3 6 （2）正方 2

（3）长方 2 1

二、1. × 2. √ 3. × 4. × 5. √

6. ×

三、1. ③ 2. ③ 3. ② 4. ①

四、1. 

2. （1）图略

关注微信公众号“教辅资料站”获取更多学习资料

（2）



①　②

［点拨］②答案不唯一。

3. （1）①　③　（2）②　④

4. 涂色略

5. 3　1　2　3　2

6. （1）5　1　（2）6

五、1. 6×4＝24（m）

答：4 条边共长 24 m。

2. （1）4

（2）长方　8　4

（3）2

［点拨］以长方形的宽为正方形的边长，即可求解。

附加题：6　5　8

第五单元跟踪检测卷

有余数的除法

一、1. 除以　5　4　被除数　除数　商　余数

2. 5

3. 5　1

4. 7　1

5. 5

6. 9　9　6　7　4　5

7. 39　36

8. 39÷7＝5……4　52÷8＝6……4

［点拨］答案不唯一，符合条件即可。

9. 44　5　8

二、1. √　2. ×　3. ×　4. ×　5. √

6. ×

三、1. ②　2. ③　3. ③　4. ②　5. ②

6. ①

四、1. 5　2……1　42　6……1　7……1

8　0　9

2.



3. 51÷7＝7……2　33÷7＝4……5

$$7\overline{)51}\quad\begin{array}{r}7\\ 49\\ \hline 2\end{array}\qquad 7\overline{)33}\quad\begin{array}{r}4\\ 28\\ \hline 5\end{array}$$

69÷8＝8……5　56÷7＝8

$$8\overline{)69}\quad\begin{array}{r}8\\ 64\\ \hline 5\end{array}\qquad 7\overline{)56}\quad\begin{array}{r}8\\ 56\\ \hline 0\end{array}$$

47÷9＝5……2　24÷9＝2……6

$$9\overline{)47}\quad\begin{array}{r}5\\ 45\\ \hline 2\end{array}\qquad 9\overline{)24}\quad\begin{array}{r}2\\ 18\\ \hline 6\end{array}$$

4. ×　改正：$8\overline{)39}\ \begin{array}{r}4\\ 32\\ \hline 7\end{array}$　×　改正：$8\overline{)65}\ \begin{array}{r}8\\ 64\\ \hline 1\end{array}$

×　改正：$7\overline{)36}\ \begin{array}{r}5\\ 35\\ \hline 1\end{array}$　×　改正：$9\overline{)74}\ \begin{array}{r}8\\ 72\\ \hline 2\end{array}$

五、1. 31÷9＝3（张）……4（元）

答：可以买 3 张成人票，还剩 4 元。

21÷5＝4（张）……1（元）

答：可以买 4 张儿童票，还剩 1 元。

2. 47÷5＝9（箱）……2（箱）

答：至少留下 2 箱暂时不送。

3. 13÷4＝3（行）……1（辆）

答：这些单车可以摆放成 3 行，最后有 1 辆被推到别的地方去了。

4. 20＋18＝38（名）

38÷4＝9（条）……2（人）

9＋1＝10（条）

答：至少需要 10 条船。

4×8＝32（人）　38－32＝6（人）

答：有 6 人不能上船。

附加题：□＝5　△＝7　☆＝2

第六、七单元跟踪检测卷

时、分、秒　收集与整理

一、1. 时　分　秒

2. 20

3. 10

4. 12　12

5. 30

6. 下午 1

7. 2　100　180　1　6　130　6　1　20

8. （1）①三　6　3　6

②两　7　8

（2）15　45

9. 分　秒　分　时　时　分

10. ＞　＞　＝　＜　＝　＜

二、1. ×　2. √　3. √　4. ×　5. ×

三、1. ②　2. ②　3. ③　4. ①　5. ②

四、1. 7；30　7；05　2；50　3；55

7　30　7　5　3　10　3　4

2. （1）7　8　5　5

（2）



（3）25

五、1.

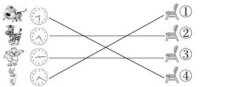

2. 兔子　老虎

3. 8　30　55

六、1. 7 时 20 分＋2 时 30 分＝9 时 50 分

答：爷爷回家时是 9 时 50 分。

2. 8 时－15 分＝7 时 45 分

答：最晚要在早上 7 时 45 分从家里出发。

3. 11 时 10 分－8 时 10 分＝3 时

9×3＝27（件）

答：他一共送了 27 件快递。

4. （1）7　8　4　10　15

（2）打乒乓球　跑步

（3）3

（4）答案不唯一，符合题意即可，如：喜

关注微信公众号“教辅资料站”获取更多学习资料

欢跳绳的和喜欢打乒乓球的一共有多少人?

10 + 15 = 25（人）

答：喜欢跳绳的和喜欢打乒乓球的一共有 25 人。

附加题：12 时 − 8 时 30 分 = 3 时 30 分

3 时 30 分 + 6 时 30 分 = 10 时

答：妈妈从上班到下班相隔了 10 时。

[点拨] 先算出妈妈上午上班的时间，再加上下午上班的时间，即可求解。

期末总复习

模块过关卷（一）

数与代数　统计

一、1. 5040　五千零四十　5264

五千二百六十四

2. 四　千　4698　4700

3. 6

4. 95　240　2　10

5. 2006　2600　6200　6002　6020　2006

2060

6. 9　5　6

7. （1）5578 < 5599 < 5700 < 6080 < 6104

（2）3 分 50 秒 < 300 秒 < 3 时 < 300 分

8. （1）2100　2110　（2）12　8

二、1. ×　2. ×　3. ×　4. √　5. ×

三、1. ③　2. ③　3. ①　4. ②

四、1. 700　1000　100　7……1　50　4……1

2. 62 ÷ 9 = 6……8　573 + 227 = 800

$$\begin{array}{r} 6 \\ 9\overline{)62} \\ 54 \\ \hline 8 \end{array} \qquad \begin{array}{r} 573 \\ +227 \\ \hline 800 \end{array}$$

903 − 507 = 396

$$\begin{array}{r} \dot{9}\dot{0}3 \\ -507 \\ \hline 396 \end{array}$$

346 + 587 = 933

$$\begin{array}{r} 346 \\ +587 \\ \hline 933 \end{array}$$

验算：
$$\begin{array}{r} 587 \\ +346 \\ \hline 933 \end{array}$$

700 − 299 = 401

$$\begin{array}{r} \dot{7}\dot{0}0 \\ -299 \\ \hline 401 \end{array}$$

验算：
$$\begin{array}{r} 401 \\ +299 \\ \hline 700 \end{array}$$

428 − 219 + 357 = 566

$$\begin{array}{r} 4\dot{2}8 \\ -219 \\ \hline 209 \end{array} \qquad \begin{array}{r} 209 \\ +357 \\ \hline 566 \end{array}$$

3.
$$\begin{array}{r} 123 \\ +369 \\ \hline 492 \end{array} \qquad \begin{array}{r} 257 \\ +596 \\ \hline 853 \end{array}$$

$$\begin{array}{r} 923 \\ -457 \\ \hline 466 \end{array} \qquad \begin{array}{r} 285 \\ -188 \\ \hline 97 \end{array}$$

五、1.（1）3　16　15　4　3　1

（2）

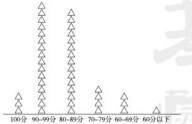

（3）42　90 ~ 99　60 分以下

2.



5：05　3时35分　11：30　7时差5分

六、1. 467 − 68 = 399（个）

答：李师傅已经做了 399 个零件。

2. 500 + 280 = 780（台）

780 − 320 = 460（台）

答：卖了 460 台。

3.（1）1000 件（√）

（2）499 − 202 = 297（件）

297 − 295 = 2（件）或

202 + 295 = 497（件）

499 − 497 = 2（件）

答：申通快递的快递量比顺丰快递和韵达快递的总快递量还多 2 件。

（3）295 − 202 = 93（件）

答：顺丰快递还差 93 件快递就和韵达快递同样多。

附加题：24 ÷ 8 = 3（元）　16 ÷ 4 = 4（元）

3 元 < 4 元　所以尽量租小客车。

5 × 8 = 40（人）

1 × 4 = 4（人）

40 + 4 = 44（人）

答：租 5 辆小客车和 1 辆出租车最便宜。

[点拨] 因为 3 元 < 4 元，所以租小客车比租出租车便宜些，故应尽量租小客车，而且没有空座位最好。

期末总复习

模块过关卷（二）

图形与几何

一、1.

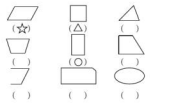

2. 5000　45　3

3. >　=　>　<　>　<

4. cm　m　dm

5. 35 毫米　5 厘米　2

6. ④　①　⑥　⑤　三角

7.（1）□▱▱▱▱

（2）△○□▲●▱

二、1. ×　2. ×　3. ×　4. ×　5. ×

三、1. ③　2. ①　3. ①　4. ②　5. ③

四、1. 15　3　1　4　2

2. 4　5　1　2

3.（1）略

（2）



（3）

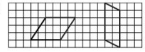

（4）（答案不唯一）

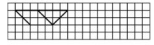

4.（1）



关注微信公众号“教辅资料站”获取更多学习资料

（2）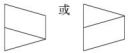 或

五、100　10　4　1000　600　6　7000　（第3、4个空答案不唯一）

六、1. 2 km = 2000 m

2000 + 200 = 2200（m）

答：她家离学校有2200 m远。

2. 10 cm 5 mm = 105 mm

8cm 7mm = 87 mm　105 mm > 87 mm

105 − 87 = 18（mm）

答：第一件快递厚，厚18 mm。

3.（1）3 + 3 = 6（千米）

6 × 2 = 12（千米）

答：来回要走12千米。

（2）4 + 7 = 11（千米）

4 + 6 = 10（千米）

3 + 3 + 6 = 12（千米）

10千米 < 11千米 < 12千米

答：文文从家出发经图书馆，再到动物园，这条路最近。最近是10千米。

附加题：14　22

[点拨] 数图形的个数时，要按一定的顺序，边数边做标记，才能不重复不遗漏。

期末总复习

仿真模拟卷（一）

一、1. 9　3　7

2. 998　1000

3. 7070　七千零七十

4. 180　4　95　4　600　37　6000

5. 毫米　秒　厘米　米

6. 5

7. 5　6　3

8. 6

9.（1）24　20

（2）△○○○

10. 7

11. 2　1

二、1. ×　2. √　3. ×　4. ×　5. ×

三、1. ③　2. ③　3. ②　4. ①　5. ①

四、1. 1000　70　40　7　570　5……3

2. 306 + 498 = 804　300 − 246 = 54

$$\begin{array}{r} 3\,0\,6 \\ +\,4\,9\,8 \\ \hline 8\,0\,4 \end{array} \qquad \begin{array}{r} 3\,\dot{0}\,0 \\ -\,2\,4\,6 \\ \hline 5\,4 \end{array}$$

67 ÷ 7 = 9……4

$$\begin{array}{r} 9 \\ 7\overline{)67} \\ \underline{63} \\ 4 \end{array}$$

567 + 178 = 745

$$\begin{array}{r} 5\,6\,7 \\ +\,1\,7\,8 \\ \hline 7\,4\,5 \end{array}$$ 验算：$$\begin{array}{r} 1\,7\,8 \\ +\,5\,6\,7 \\ \hline 7\,4\,5 \end{array}$$

806 − 499 = 307

$$\begin{array}{r} \dot{8}\,\dot{0}\,6 \\ -\,4\,9\,9 \\ \hline 3\,0\,7 \end{array}$$ 验算：$$\begin{array}{r} 3\,0\,7 \\ +\,4\,9\,9 \\ \hline 8\,0\,6 \end{array}$$

414 + 493 − 719 = 188

$$\begin{array}{r} 4\,1\,4 \\ +\,4\,9\,3 \\ \hline 9\,0\,7 \end{array} \qquad \begin{array}{r} 9\,\dot{0}\,7 \\ -\,7\,1\,9 \\ \hline 1\,8\,8 \end{array}$$

五、1. 略

2. ①

颜色	白色	黑色
个数（个）	16	10

②

形状	长方形	正方形	三角形	圆
个数（个）	5	1	12	7

（2）

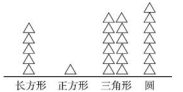

六、1. 48 ÷ 9 = 5（层）……3（件）

答：需放5层，还剩3件。

2. 2:15 + 40分 = 2:55

答：航模比赛是下午2:55结束的。

3. 396 + 157 = 553（元）

396 + 553 = 949（元）

答：买一件毛衣和一件羽绒服一共需要949元。

4.（1）358 + 289 = 647（km）

647 + 78 = 725（km）

答：一共行驶了725 km。

（2）289 + 78 = 367（km）

367 − 358 = 9（km）

答：从乙地到甲地的路程比从乙地经丙地到丁地的路程少9 km。

附加题：68 + 53 = 121（只）

黑山羊：121 − 95 = 26（只）

白山羊：68 − 26 = 42（只）

灰山羊：53 − 26 = 27（只）

答：黑山羊有26只，白山羊有42只，灰山羊有27只。

[点拨] 从黑山羊和白山羊一共有68只，黑山羊和灰山羊一共有53只这两条信息中发现：两条信息都有黑山羊，所以将68和53相加后，再减去山羊的总只数，就是黑山羊的只数，即可求解。

期末总复习

仿真模拟卷（二）

一、1. 2134　2001　3030

2. 3

3. 30000　23　87　180　50　5

4. 896　897

5. 8620　2068

6. >　<　>　>　=　>

7. 4050　四千零五十

关注微信公众号“教辅资料站”获取更多学习资料

8. （1）2970　3070　（2）4　25

［点拨］其规律是：第一个数是 1，2，3，4，…，第二个数是 1×1，2×2，3×3，4×4，…。

（3）△

9. 900

10. 9　5　5

11. 7　50

二、1. ×　2. ×　3. ×　4. √　5. ×

6. ×　［点拨］在有余数的除法中，余数只能小于除数。

三、1. ①　2. ③　3. ③　4. ②　5. ②

6. ①

四、1. 48　230　8……7　628　1000　4

2. 257 + 398 = 655

$$\begin{array}{r} 2\ 5\ 7 \\ +\ 3\ 9\ 8 \\ \hline 6\ 5\ 5 \end{array}$$ 验算：$$\begin{array}{r} 3\ 9\ 8 \\ +\ 2\ 5\ 7 \\ \hline 6\ 5\ 5 \end{array}$$

486 − 187 = 299

$$\begin{array}{r} 4\ 8\ 6 \\ -\ 1\ 8\ 7 \\ \hline 2\ 9\ 9 \end{array}$$ 验算：$$\begin{array}{r} 2\ 9\ 9 \\ +\ 1\ 8\ 7 \\ \hline 4\ 8\ 6 \end{array}$$

500 − 356 = 144　$$\begin{array}{r} 5\ 0\ 0 \\ -\ 3\ 5\ 6 \\ \hline 1\ 4\ 4 \end{array}$$

265 + 335 = 600　$$\begin{array}{r} 2\ 6\ 5 \\ +\ 3\ 3\ 5 \\ \hline 6\ 0\ 0 \end{array}$$

80 ÷ 9 = 8……8　$$\begin{array}{r} 8 \\ 9\overline{)80} \\ 72 \\ \hline 8 \end{array}$$

747 + 96 = 843　$$\begin{array}{r} 7\ 4\ 7 \\ +\ 9\ 6 \\ \hline 8\ 4\ 3 \end{array}$$

五、1.



2. 略

六、1. 5 米 = 50 分米

50 ÷ 8 = 6（件）……2（分米）

答：能包装 6 件快递，还剩 2 分米。

2. 236 − 78 = 158（棵）

236 + 158 = 394（棵）

答：两个班一共浇了 394 棵。

3. 980 − 434 = 546（kg）

546 − 256 = 290（kg）

答：下午用了 290 kg。

4. （1）略

（2）电冰箱　洗衣机

（3）538 + 223 + 239 = 1000（元）

答：这一天该网店共赢利 1000 元。

（4）略

附加题：320 − 170 = 150（克）

水：150 + 150 = 300（克）

瓶子：320 − 300 = 20（克）

答：水重 300 克，瓶子重 20 克。

［点拨］将水和瓶子的总质量减去倒出一半水后水连瓶子的质量就是水的质量，于是可求出水的质量。

期末总复习

仿真模拟卷（三）

一、1. 一千零七　1　一

2. 2000　90

3. ①　③⑤　②④

4. cm　mm　dm　km

5. >　<　<　>　=　<

6. 7520　2057

7. 小丁　小林　小刚　小军

8. 6　35

9. 白　［点拨］38 ÷ 5 = 7（组）……3（个），所以第 38 个珠子是白色的。

10. 49　147　65　［点拨］本月使用数等于本月底的读数减去上月底的读数。

二、1. ×　2. ×　3. √　4. ×　5. √

三、1. ③　2. ②　3. ②　4. ②　5. ①

四、1. 700　500　30　400　55　6……2

2. 349 + 458 = 807　$$\begin{array}{r} 3\ 4\ 9 \\ +\ 4\ 5\ 8 \\ \hline 8\ 0\ 7 \end{array}$$

713 − 409 = 304　$$\begin{array}{r} 7\ 1\ 3 \\ -\ 4\ 0\ 9 \\ \hline 3\ 0\ 4 \end{array}$$

78 ÷ 9 = 8……6　$$\begin{array}{r} 8 \\ 9\overline{)78} \\ 72 \\ \hline 6 \end{array}$$

500 − 246 = 254　$$\begin{array}{r} 5\ 0\ 0 \\ -\ 2\ 4\ 6 \\ \hline 2\ 5\ 4 \end{array}$$

413 − 348 = 65

$$\begin{array}{r} 4\ 1\ 3 \\ -\ 3\ 4\ 8 \\ \hline 6\ 5 \end{array}$$ 验算：$$\begin{array}{r} 6\ 5 \\ +\ 3\ 4\ 8 \\ \hline 4\ 1\ 3 \end{array}$$

675 + 228 = 903

$$\begin{array}{r} 6\ 7\ 5 \\ +\ 2\ 2\ 8 \\ \hline 9\ 0\ 3 \end{array}$$ 验算：$$\begin{array}{r} 2\ 2\ 8 \\ +\ 6\ 7\ 5 \\ \hline 9\ 0\ 3 \end{array}$$

700 − 143 + 96 = 653

$$\begin{array}{r} 7\ 0\ 0 \\ -\ 1\ 4\ 3 \\ \hline 5\ 5\ 7 \end{array}$$ $$\begin{array}{r} 5\ 5\ 7 \\ +\ 9\ 6 \\ \hline 6\ 5\ 3 \end{array}$$

457 + 276 − 689 = 44

$$\begin{array}{r} 4\ 5\ 7 \\ +\ 2\ 7\ 6 \\ \hline 7\ 3\ 3 \end{array}$$ $$\begin{array}{r} 7\ 3\ 3 \\ -\ 6\ 8\ 9 \\ \hline 4\ 4 \end{array}$$

734 − 189 − 357 = 188

$$\begin{array}{r} 7\ 3\ 4 \\ -\ 1\ 8\ 9 \\ \hline 5\ 4\ 5 \end{array}$$ $$\begin{array}{r} 5\ 4\ 5 \\ -\ 3\ 5\ 7 \\ \hline 1\ 8\ 8 \end{array}$$

五、1.

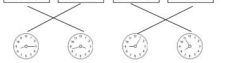

2. （1）二（4）班一周阅读课外读物情况统计图

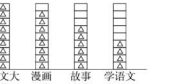

（2）9 + 8 + 6 + 4 = 27（册）

答：二（4）班一周一共阅读了 27 册课外读物。

六、1. 185 + 225 = 410（袋）

512 − 410 = 102（袋）或

512 − 185 = 327（袋）

327 − 225 = 102（袋）

答：工地上还有 102 袋水泥。

2. 50 ÷ 6 = 8（件）……2（颗）

答：能钉 8 件上衣，还剩 2 颗。

3. 457 + 243 = 700（本）

700 − 375 = 325（本）

答：故事书有 325 本。

附加题：700 − 300 = 400（元）

衬衣：400 ÷ 2 = 200（元）

裤子：300 − 200 = 100（元）

答：1 条裤子 100 元钱，1 件衬衣 200 元钱。

［点拨］3 件衬衣和 1 条裤子的钱减去 1 件衬衣和 1 条裤子的钱，就是 2 件衬衣的钱，即可求出 1 件衬衣的钱。

关注微信公众号“教辅资料站”获取更多学习资料

桑天下桃李 德四方学人
李德基 主编

小卷：周测卷·专项卷



01
周测培优卷
（9套）

02
专项能力提升卷
（12套）

2年级 数学 下

（XS版）

赠送 ZENG SONG

关注微信公众号“教辅资料站”获取更多学习资料



目录

周测培优卷

数数、写数、读数 …… 01

大小比较、较大数的估计、认识算盘 …… 03

千米、毫米的认识和简单的单位换算 …… 05

整十、整百数的加减、三位数的加法 …… 07

三位数的减法、探索规律和问题解决 …… 09

长方形、正方形的特征和平行四边形的认识 …… 11

认识除法算式和有余数的除法 …… 13

时、分、秒和问题解决 …… 15

分类、整理数据，认识图形，统计图和统计表 …… 17

专项能力提升卷

计数单位的认识、含0的数的写、读规则 …… 19

三位数的连续进位加法和退位减法的计算及应用 …… 21

有余数的除法计算及应用 …… 23

时、分、秒的换算及经过时间的计算方法 …… 25

常考易错题 …… 27

填空题 …… 29

选择题 …… 31

计算题(一) …… 33

计算题(二) …… 35

图形题 …… 37

应用题(一) …… 39

应用题(二) …… 41

参考答案及点拨 …… 43

关注微信公众号“教辅资料站”获取更多学习资料

周测培优卷1

数数、写数、读数

班级_____ 姓名_____ 得分_____ 时间：40分钟 满分：100分

一、填空。（每空1分，共32分）

1. （　　）个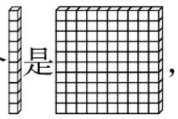是，（　　）个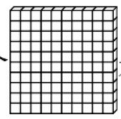是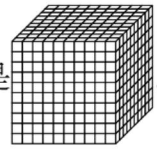。

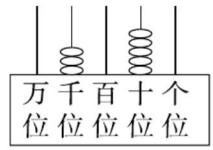

2. 如右图，（　　）个千和（　　）个十组成的数是（　　）。

3. 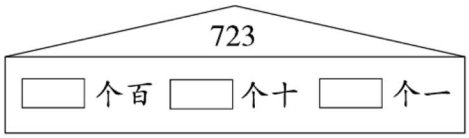

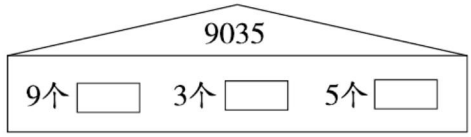

4. 一个五位数从右边起，第（　　）位是百位，第五位是（　　）位。

5. （1）一个数由9个千和4个一组成，这个数写作：（　　）。

（2）千位和十位上是9，其余各位上是0的数写作：（　　），读作：（　　）。

（3）一个四位数，最高位上是8，最低位上是4，其余两位上是0，这个数写作：（　　），读作：（　　）

6. 7200是（　　）位数，最高位是（　　）位。

7. 3560中的“3”在（　　）位上，表示3个（　　），“6”在（　　）位上，表示6个（　　）。

8. 最小的四位数与最大的三位数相差（　　）。

9. 按规律填数。

（1）489、（　　）、（　　）、492、（　　）、（　　）。

（2）3270、3280、（　　）、（　　）、3310、3320、（　　）。

二、判断。（每题3分，共18分）

1. 二千二百二十二中的4个二所表示的意义相同。（　　）
2. 在计数器上拨四千时，要在千位上拨4个珠子。（　　）
3. 写数时，哪个数位上一个计数单位也没有，就可以不写。（　　）
4. 7005读作：七千零零五。（　　）
5. 一万比九千多一千。（　　）
6. 读数和写数都从低位起。（　　）

关注微信公众号“教辅资料站”获取更多学习资料

三、写一写，读一读，连一连。(共50分)

1. 看图写数，读数。(12分)

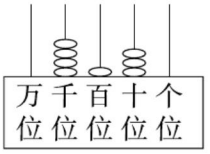

写作：(　　)　　读作：(　　)

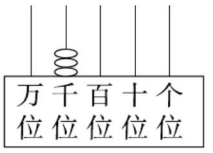

写作：(　　)　　读作：(　　)



写作：(　　)　　读作：(　　)

2. 写一写。(从小到大)(8分)





3. 连一连。(16分)

2个千，3个十	2157	二千七百
2个千，2个一	2002	二千零三十
2个千，7个百	2700	二千一百五十七
2个千，1个百，5个十，7个一	2030	二千零二

4. 读、写横线上的数。(6分)

(1) 一列动车每分行驶4000米。读作：(　　)

(2) 某公司平均每月收发电子邮件一千零九件。写作：(　　)

(3) 亚洲第一长河全长约六千三百九十七千米。写作：(　　)

5. 按要求把7，3，0，0组成四位数。(各写一个)(8分)

(1) 1个零也不读。

写作：_____

读作：_____

(2) 只读1个零。

写作：_____

读作：_____

关注微信公众号“教辅资料站”获取更多学习资料

周测培优卷2

大小比较、较大数的估计、认识算盘

班级_____ 姓名_____ 得分_____ 时间：40分钟 满分：100分

一、填空。（每空2分，共52分）

1. 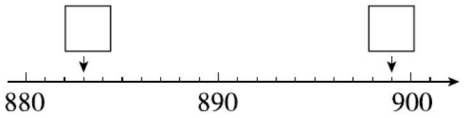

□>□

2. 小于8000且大于5000的整千数有（　　）。

3. 684是一个（　　）位数，6084是一个（　　）位数，这两个数相比（　　）大。

4. 找邻居。

（　　）900（　　）　（　　）999（　　）　（　　）4099（　　）

5. 一个两位数加上1就是三位数，这个两位数是（　　）。

6. 在□里填上合适的数字。

59□<596　11□9<1199　23□>236　5157>51□7

7. 在○里填上“>”或“<”。

300○500　4281○281　1001○999

4215○4251　756○746　6345○5999

8. 一层楼的高度大约是3 m，莫浩然所住小区一幢楼有32层，这幢楼的高度大约是（　　）m。

二、选择。（将正确答案的序号填在括号里）（每题3分，共12分）

1. 一个四位数，它的最高位是（　　）。

①百位　②千位　③万位

2. 下面最接近5000的数是（　　）。

①5675　②5099　③4998

3. 与7289相邻的后面的数是（　　）。

①7290　②7280　③7288

4. 下面各数中，比8060大的数是（　　）。

①8600　②8006　③8059

关注微信公众号“教辅资料站”获取更多学习资料

三、先画一画，再比较。(8分)

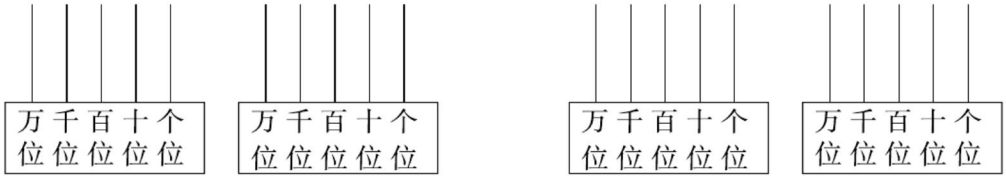

4203 ◯ 3506　　431 ◯ 550

四、比一比。(共18分)

1. 排队。(10分)



□ > □ > □ > □ > □

2. 选择合适的数，把序号填在（　　）里。(8分)

(1)



①3357　②2999

(2)



①899　②1003

五、问题解决。(第1题4分，第2题6分，共10分)

1. 某网店元旦进行抽奖活动，想一想，哪个数是获奖号码？画上“√”。

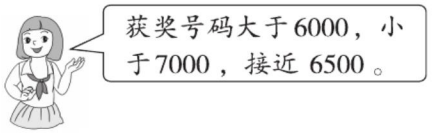

□ 5970　□ 6002
□ 6407　□ 6950

2.



白兔有多少只？(请在下表中画♡)

1326只	1770只	1300只

黑兔有多少只？(请在下表中画☆)

1348只	2770只	1300只

关注微信公众号“教辅资料站”获取更多学习资料



周测培优卷3

千米、毫米的认识和简单的单位换算

班级_____ 姓名_____ 得分_____ 时间：40分钟 满分：100分

一、填空。（每空2分，共32分）

1. 5 km = （　　）m　　8000 m = （　　）km　　6 dm = （　　）mm

   10 km = （　　）m　　1 m − 2 dm = （　　）dm

   6 cm + 4 cm = （　　）cm = （　　）dm

   54 mm + 46 mm = （　　）mm = （　　）cm = （　　）dm

2. 在◯里填上“ > ”“ < ”或“ = ”。

   6 cm ◯ 60 mm　　500 cm ◯ 50 km　　5000 mm ◯ 5 m

   20 cm ◯ 30 mm　　1 m ◯ 100 cm　　85 mm ◯ 8 cm

二、判断。（对的打“√”，错的打“×”）（每题2分，共10分）

1. 950米比1千米长得多。（　　）
2. 一支铅笔长8毫米。（　　）
3. 北京到广州的铁路约长2310米。（　　）
4. 4000 mm = 4 m。（　　）
5. 一座大桥长1300 km。（　　）

三、选择。（将正确答案的序号填在括号里）（每题3分，共15分）

1. 我们学校的旗杆高（　　）。

   ①100 dm　　②100 mm　　③100 cm

2. 爸爸的身高是168（　　）。

   ①dm　　②m　　③cm

3. 下面（　　）和5000米相等。

   ①500分米　　②5千米　　③50000厘米

4. 在1 km，2500 mm，300 m这三个长度中，最长的是（　　）。

   ①1 km　　②2500 mm　　③300 m

5. 1千米大约有多长？（　　）

   ①从1楼到20楼　　②10条100米跑道　　③1间教室的长

关注微信公众号“教辅资料站”获取更多学习资料

四、按要求完成下面各题。（共 25 分）

1. 画一条长 34 mm 的线段。（3 分）

2. 量好后，再填写。（4 分）

（　　）cm



（　　）cm

3. 按从长到短的顺序排列。（10 分）

5 mm　　5 dm　　5 km　　5 m　　5 cm

（　　）>（　　）>（　　）>（　　）>（　　）

4. 连一连。（8 分）



长14

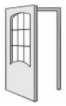

高约2



每小时行驶是2



高约4

km　　mm　　cm　　dm　　m



厚约2



高约9



全程约1200



每小时飞行约480

五、问题解决。（第 3 题 8 分，其余每题 5 分，共 18 分）

1. 1 支铅笔用去 8 cm，还剩 10 cm。



2. 做 9 根跳绳够不够？



长 19 米



一根跳绳长 2 米

3. 从洋洋家经过图书馆到园博园的路程是多少？

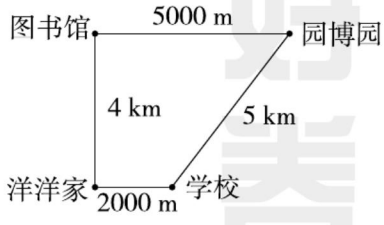

关注微信公众号“教辅资料站”获取更多学习资料



周测培优卷4

整十、整百数的加减、三位数的加法

班级_____ 姓名_____ 得分_____ 时间：40分钟 满分：100分

一、填空。（每空2分，共32分）

1. 比320多250的数是（　　），400比900少（　　）。

2. 在（　　）里填上适当的数。

70 +（　　）=470　　（　　）−400=90　　740 −（　　）=40

（　　）−70=300　　（　　）+250=300　　630 −（　　）=600

3. 在◯里填上“>”“<”或“=”。

3700 −600 ◯ 3700 −400　　630 +80 ◯ 800 −80

2500 −300 ◯ 2400 −300　　365 +0 ◯ 365 −0

4. 实验小学有908人，其中男生有496人，估算女生大约有多少人时，把908看成（　　），把496看成（　　），所以女生大约有（　　）人。

5. 快递公司送出快递368件，还剩627件没送，原来有（　　）件。

二、选择。（将正确答案的序号填在括号里）（每题2分，共8分）

1. 寄一件快递49元，妈妈给外公寄去两件快递，大约需要（　　）元。

①50　　②100　　③98

2. 两数相加，十位相加满10要向（　　）进“1”。

①个位　　②十位　　③百位

3. 158 +496的结果最接近（　　）。

①700　　②650　　③600

4. 一个加数增加300，另一个加数减少300，它们的和（　　）。

①增加300　　②减少300　　③不变

三、计算。（共33分）

1. 口算。（每小题1分，共6分）

400 +600 =　　800 −700 =　　650 −50 =

640 −600 =　　50 +300 =　　500 +30 =

2. 计算并验算。（每小题3分，共6分）

210 +70 =　　验算：□ ◯ □ =□

500 −300 =　　验算：□ ◯ □ =□

关注微信公众号“教辅资料站”获取更多学习资料

3. 竖式计算。（每小题 3 分，共 12 分）

222 + 188 =　　465 + 294 =　　38 + 268 =　　267 + 346 =

4. 下面的计算对吗？（对的打“√”，错的打“×”，并改正）（每小题 3 分，共 9 分）

$$\begin{array}{r} 354 \\ +418 \\ \hline 762 \end{array}$$ 改正：

（　　）

$$\begin{array}{r} 785 \\ +367 \\ \hline 1052 \end{array}$$ 改正：

（　　）

$$\begin{array}{r} 634 \\ +78 \\ \hline 1414 \end{array}$$ 改正：

（　　）

四、连一连。（12 分）







得数比800大

得数比500小







五、问题解决。（第 1 题 6 分，第 2 题 9 分，共 15 分）

1. 下午用电线多少米？

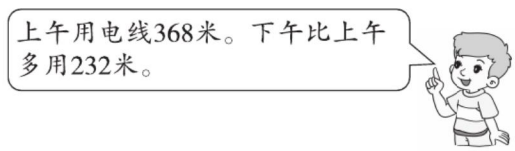

2. 购物。



389 元



108 元



298 元



599 元

（1）买一张床和一个电饭煲大约要多少钱？

（2）买一盏台灯和一台微波炉一共要多少钱？

（3）请你提出一个数学问题并解答。

关注微信公众号“教辅资料站”获取更多学习资料



周测培优卷5

三位数的减法、探索规律和问题解决

班级_____ 姓名_____ 得分_____ 时间：40分钟 满分：100分

一、填空。（每空2分，共42分）

1. 比509少367的数是（　　），648比（　　）少239。

2. 470－90＝（　　），想：（　　）个十减去（　　）个十，得（　　）个十，就是（　　）。

3. 一个数加上546是690，这个数是（　　）。

4. 在◯里填上“＞”“＜”或“＝”。

522－298 ◯ 200　　598－405 ◯ 100　　400＋500 ◯ 900－200

340－200 ◯ 340－202　　280 ◯ 330－30　　609－209 ◯ 400

5. 按规律填空。

（1）6，6，10，6，6，10，6，6，10，_____，_____，_____。

（2）110，90，70，50，_____，_____。

（3）290，200，130，80，50，_____。

（4）□△，□△△，□△△△，□△△△△，_____。

二、选择。（将正确答案的序号填在括号里）（每题3分，共12分）

1. 下面算式中，（　　）的结果最小。

①570－490　　②407－368　　③458－379

2. 最小的三位数减去27，差是（　　）。

①83　　②127　　③73

3. 20，24，28，（　　），36，40。

①29　　②32　　③35

4. 骏龙店有140件快递，送走了118件，又送走了13件，还有多少件没送？正确列式是（　　）。

①140＋118＋13　　②140－118＋13　　③140－(118＋13)

三、计算。（共24分）

1. 口算。（每小题1分，共6分）

400－250＝　　400－350＝　　600＋80＝

210－110＝　　357－200＝　　1000－800＝

关注微信公众号“教辅资料站”获取更多学习资料

2. 竖式计算。（带 * 的要验算）（每小题 3 分，共 9 分）

381 − 154 =　　* 802 − 585 =　　* 700 − 215 =

3. 下面的计算对吗？（对的打“√”，错的打“×”，并改正）（每小题 3 分，共 9 分）

$\begin{array}{r} 427 \\ -\ 128 \\ \hline 309 \end{array}$ 改正：（　　）

$\begin{array}{r} 900 \\ -\ \ 26 \\ \hline 884 \end{array}$ 改正：（　　）

$\begin{array}{r} 607 \\ -\ 499 \\ \hline 212 \end{array}$ 改正：（　　）

四、问题解决。（第 1 题 3 分，第 2 题 4 分，第 3 题 9 分，第 4 题 6 分，共 22 分）

1. 以下商品的价格比原来便宜了多少元？



原价：920 元　现价：675 元



原价：708 元　现价：569 元

2. 两个店昨天共赢利多少元？



3. 买白糖。

（1）只买 6 元一袋的白糖，可以买（　　）袋。

（2）只买 8 元一袋的白糖，可以买（　　）袋。

（3）两种包装的白糖都买，可以买（　　）袋 6 元一袋的白糖和（　　）袋 8 元一袋的白糖。



4. 果园里种橘子树 456 棵，如果再种 58 棵橘子树，橘子树就和梨树一样多，种桃树 127 棵。

（1）一共种了多少棵橘子树和梨树？

（2）请你提出一个数学问题并解决。

关注微信公众号“教辅资料站”获取更多学习资料

周测培优卷6

长方形、正方形的特征和平行四边形的认识

班级_____ 姓名_____ 得分_____ 时间：40分钟 满分：100分

一、填空。（每空2分，共22分）

1. 正方形的4条边都（　　），4个角都是（　　）角。
   长方形的4个角都是（　　）角，它的（　　）边相等。
2. 摆一个平行四边形，至少需要（　　）根小棒。
3. 右图拼的是（　　），用了（　　）个正方形，（　　）个长方形，（　　）个平行四边形，（　　）个圆和（　　）个三角形。



二、判断。（对的打“√”，错的打“×”）（每题3分，共15分）

1. 对边相等的四边形一定是长方形。（　　）
2. 两个相同的正方形可以拼成一个大正方形。（　　）
3. 正方形的四条边一样长。（　　）
4. 平行四边形的4个角都是直角。（　　）
5. 4根长分别为7 cm，7 cm，6 cm，5 cm的小棒能拼成1个长方形。（　　）

三、连一连。（共22分）

1. 认一认，连一连。（10分）



平行四边形　　正方形　　长方形

2. 拼一拼，连一连。（12分）



由2个拼成的图形。



由2个拼成的图形。



由2个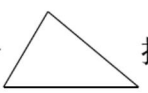拼成的图形。

关注微信公众号“教辅资料站”获取更多学习资料

四、按要求完成下面各题。(共 41 分)

1. 涂一涂。(17 分)

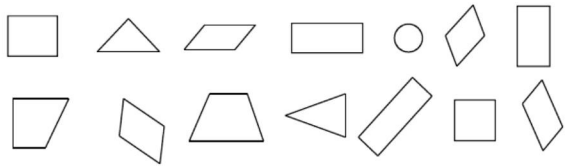



2. 数一数。(9 分)

(1) 右图中有 (　　) 个长方形，(　　) 个正方形。

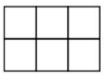

(2) 右图中有 (　　) 个平行四边形。

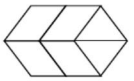

3. 画一画。(共 15 分)

(1) 在方格纸上画一个长方形，一个正方形和一个平行四边形。(9 分)

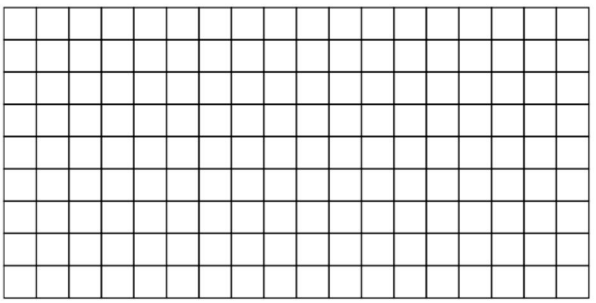

(2) 下图怎样改才能成为长方形，画一画。(6 分)

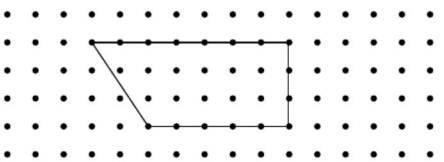

4. 下图中的两个空白部分是相同的长方形。(10 分)

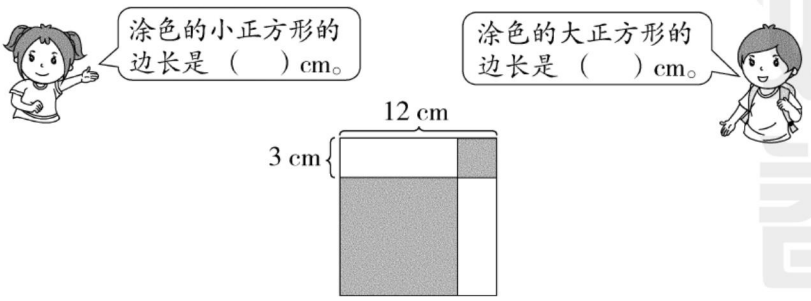

关注微信公众号“教辅资料站”获取更多学习资料



周测培优卷7

认识除法算式和有余数的除法

班级_____ 姓名_____ 得分_____ 时间：40分钟 满分：100分

一、填空。（第1题12分，其余每空2分，共36分）

1. 有21个气球。

（1）平均扎成4束，每束扎（　　）个，还剩（　　）个。列式计算为：

□÷□=（　　）（个）……（　　）（个）。

（2）每束扎5个，可以扎（　　）束，还剩（　　）个。列式计算为：

□÷□=（　　）（束）……（　　）（个）。

2. 26里面最多有（　　）个4，最多有（　　）个5。

3. 在算式△÷6=3……□中，□内可以填的数有（　　）

4. （　　）里最大能填几？

27>（　　）×5　　52>（　　）×8　　34>（　　）×9

9×（　　）<37　　8×（　　）<49　　（　　）×7<36

5. 把30件快递平均分给5个快递员送，每个快递员送（　　）件。把30件快递平均分给4个快递员送，每个快递员送（　　）件，还剩（　　）件。

二、判断。（对的打“√”，错的打“×”）（每题2分，共6分）

1. 任何数除以1都没有余数。（　　）

2. 一只30元的玩具狗可以换7辆5元的玩具小汽车。（　　）

3. 28÷7=3……7。（　　）

三、选择。（将正确答案的序号填在括号里）（每题3分，共9分）

1. 7×（　　）<56，括号里最大能填（　　）。

①6　　②7　　③8

2. 在一个有余数的除法算式中，如果除数是9，余数（　　）。

①大于9　　②等于9　　③小于9

3. 在算式□÷5=4……2中，被除数是（　　）。

①22　　②20　　③18

四、计算。（共27分）

1. 口算。（每小题1分，共6分）

56÷8=　　36÷5=　　56÷7=

2×9=　　45÷9=　　25÷6=

关注微信公众号“教辅资料站”获取更多学习资料

2. 竖式计算。（每小题 4 分，共 12 分）

45 ÷ 6 =　　52 ÷ 8 =　　42 ÷ 6 =

3. 下面的计算对吗？（对的打“√”，错的打“×”，并改正）（每小题 3 分，共 9 分）

$$\begin{array}{r} 5 \\ 8\overline{)41} \\ 40 \\ \hline 9 \end{array}$$ 改正：（　　）

$$\begin{array}{r} 8 \\ 8\overline{)60} \\ 64 \\ \hline 4 \end{array}$$ 改正：（　　）

$$\begin{array}{r} 7 \\ 6\overline{)48} \\ 42 \\ \hline 6 \end{array}$$ 改正：（　　）

五、问题解决。（第 4 题 10 分，其余每题 4 分，共 22 分）

1.



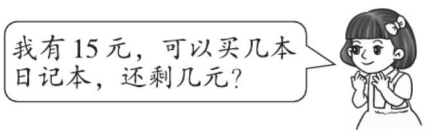

日记本　2元/本

2. 某超市昨天卖出苹果 50 千克，如果每 8 千克装一箱，可以装多少箱？还剩多少千克？

3. 一共分成几组？还剩多少人？

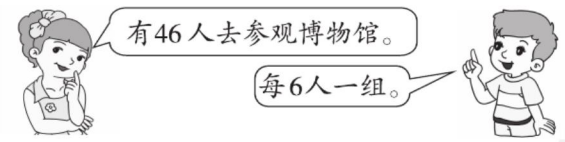

4. （1）49 个乒乓球，每 6 个装一盒，可以装多少盒？还剩多少个？

（2）49 个乒乓球平均装在 9 个盒里，每盒装几个？还剩几个没有装？

关注微信公众号“教辅资料站”获取更多学习资料



周测培优卷8

时、分、秒和问题解决

班级_____ 姓名_____ 得分_____ 时间：40分钟 满分：100分

一、填空。（每空2分，共44分）

1. 分针从4走到6，走了（　　）分。

2. 3时＝（　　）分　　120秒＝（　　）分　　1时30分＝（　　）分

半小时＝（　　）分　（　　）秒＝1分40秒　85分＝（　　）时（　　）分

3. 在○里填上“＞”“＜”或“＝”。

60秒 ○ 1时　　120分 ○ 2时　　800秒 ○ 8时

7分 ○ 7秒　　100秒 ○ 10分　　90分 ○ 1时50分

4. 在括号里填上正确的时间单位。

（1）每天晚上睡觉大约9（　　）。　（2）跑100 m要20（　　）。

（3）看一集动画片大约要30（　　）。（4）眨一下眼需要1（　　）。

（5）拍10下球大约要8（　　）。　（6）烧一壶水大约要10（　　）。

5. 填一填。

（1）小江乘车去游乐园玩，上车：上午7：20，下车：上午7：55，乘车用了（　　）分。

（2）下午1：55妈妈带着小丽去学书法，下午3：25回到家，她们一共用了（　　）分。

二、判断。（对的打“√”，错的打“×”）（每题2分，共10分）

1. 50分是半小时。（　　）

2. 4时5分可以表示为4：5。（　　）

3. 从上午8：30到上午10：25，时间经过了1：55。（　　）

4. 8：45也可以说是9时差15分。（　　）

5. 妈妈每天工作8点钟。（　　）

三、按要求完成下面各题。（共24分）

1. 看时间，在钟面上画出分针。（每小题2分，共8分）



2：20



10：45



3：10



9：05

关注微信公众号“教辅资料站”获取更多学习资料

2. 连一连。(16 分)


8时55分


12时35分


9时50分


3时30分









8:55



9:50



12:35



3:30



四、问题解决。(第 3 题 10 分，其余每题 6 分，共 22 分)

1.

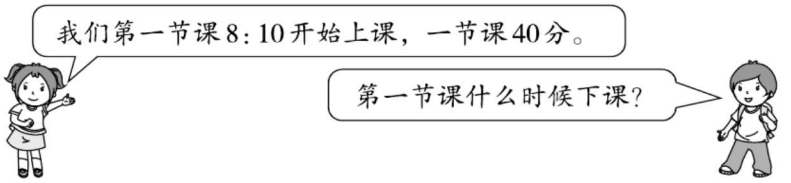

2. 还差 8 分《奥姆的故事》就开始播放了，动画片《奥姆的故事》是几时几分开始播放?



3. 400 m 赛跑。



(1) 把前 3 名的名字填在领奖台上。

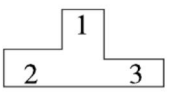

(2) 小林跑完 400 m 比小光多用了多少秒?

关注微信公众号“教辅资料站”获取更多学习资料

周测培优卷9

分类、整理数据，认识图形，统计图和统计表

班级_____ 姓名_____ 得分_____ 时间：40分钟 满分：100分

一、分一分，填一填。（每空2分，共12分）

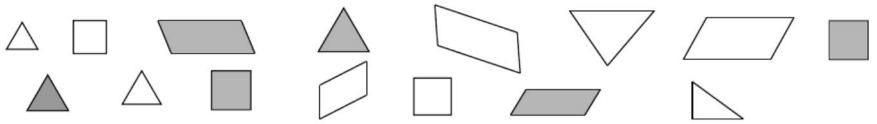

1. 三角形有（　　）个，正方形有（　　）个，平行四边形有（　　）个。

2. 按颜色分，可以分成（　　）类，白色有（　　）个，灰色有(　　)个。

二、动物乐园。（共25分）



1. 用“◯”代替动物，画一画，填一填。（16分）

熊猫	山羊	大象	猴子
（　）只	（　）只	（　）只	（　）只

2. 选择。（将正确答案的序号填在括号里）（每空3分，共9分）

（1）（　　）的数量最多。

①猴子　　②大象　　③山羊

（2）（　　）的数量最少。

①熊猫　　②大象　　③山羊

（3）山羊和大象一共有（　　）只。

①5　　②6　　③7

关注微信公众号“教辅资料站”获取更多学习资料

三、下面是某地2018年4月份上半月天气情况的记录，请用画“正”字的方法整理有关数据。(8分)

日期	1	2	3	4	5
天气					
日期	6	7	8	9	10
天气					
日期	11	12	13	14	15
天气					

			

四、数一数。(第1、2题每题9分，其余每题4分，共26分)



1. 用你喜欢的方法整理图形的个数。

		

2. 把整理的结果填在右表中。

类别			
个数			

3. ☆比多（　　）个，一共有（　　）个图形。

4. （　　）最多，（　　）最少。

五、下面是某菜鸟驿站5月10日下午快递量的记录。(第1题8分，第2题9分，其余每题6分，共29分)

申通快递	顺丰快递	百世快递	圆通快递
正正正正正一	正正正正丅	正正正丆	正正正正丅

1. 将这个菜鸟驿站5月10日下午快递量统计表填完整。

申通快递	顺丰快递	百世快递	圆通快递
（　　）件	（　　）件	（　　）件	（　　）件

2. （　　）快递的快递量最多，（　　）快递和（　　）快递的快递量一样。

3. 从统计表中，你能知道这个菜鸟驿站5月10日下午一共收快递多少件吗？

4. 你还能提出什么问题？提出一个并解答。

关注微信公众号“教辅资料站”获取更多学习资料

专项能力提升卷1 计数单位的认识、含0的数的写、读规则

班级_____ 姓名_____ 时间：40分钟

提升点1：进一步认识计数单位

（一）数位与数表示的不同意义

1. 4682的千位上是（　　），表示（　　）个（　　）。

2. 6484右起第一个4在（　　）位上，表示（　　）个（　　），第二个4表示（　　）个（　　）。

（二）区分数位与计数单位

3. 5053是（　　）位数，左起第一个“5”在（　　）位上，它的计数单位是（　　）。左起第二个“5”在（　　）位上，它的计数单位是（　　）。

4. 我的计数单位是千。 我在十位上。 7 9

除了它们两个，其余数位都是我。 0

这个四位数是_____

一个数是由6个百和5个一组成。

这个数是_____

提升点2：万以内含0的数的读写

5. 乡村淘宝大力店，2月快递量为3040件。

3040读作：_____

我国五座名山之一的衡山海拔高度为1300米。

1300读作：_____

养殖专业户，张大叔今年养鸡7003只。

7003读作：_____

6. 某体育馆设计观众座位大约六千个。其中固定座位三千零一个。活动座位三千零七十八个。

六千写作：_____ 三千零一写作：_____

三千零七十八写作：_____

关注微信公众号“教辅资料站”获取更多学习资料

7. 用两个 0，1 个 2 和 1 个 5 按要求写数。

（1）写出两个 1 个零都不读的四位数。

_____ _____

（2）写出两个只读 1 个零的四位数。

_____ _____

提升点 3：区分准确数与较大数的估计

8. 看图填空。



有 50 颗星星



大约有（　　）颗星星

9. 跳绳比赛。



把三个人的名字填在合适的位置。

49 下	106 下	114 下	130 下	209 下

10. 四个快递店 3 月的快递量真不少。



（1）（　　）店的快递量最多，（　　）店第二，（　　）店最少。

（2）长万店的快递量比杨柳店的快递量（　　）。（填“少一些”或“少得多”）

关注微信公众号“教辅资料站”获取更多学习资料

专项能力提升卷2 三位数的连续进位加法和退位减法的计算及应用

班级_____ 姓名_____ 时间：40分钟

提升点1：用三位数加减三位数

1. 填空。

（1）在（　　）里填上适当的数。

260 +（　　）= 700　（　　）+ 40 = 360　（　　）+ 700 = 1000

（　　）+ 320 = 520　570 −（　　）= 270　300 +（　　）= 1200

（2）在◯里填上“ > ”“ < ”或“ = ”。

430 + 125 ◯ 530　　293 + 45 ◯ 250　　490 ◯ 540 − 150

700 − 230 ◯ 700 + 230　360 + 600 ◯ 660 + 300　578 − 120 ◯ 350

（3）在□里填上合适的数字。

$$\begin{array}{r} 6\square\square \\ -\ 4\ 6\ 3 \\ \hline 1\ \square\ 7 \end{array} \qquad \begin{array}{r} 8\square 3 \\ +\ \square\ 9\ \square \\ \hline 1\ 0\ 0\ 7 \end{array} \qquad \begin{array}{r} 8\ \square\ 3 \\ -\ 3\ \square\ 8 \\ \hline 4\ 5\ 5 \end{array} \qquad \begin{array}{r} \square\ 4\ \square \\ +\ 6\ \square\ 7 \\ \hline 1\ 0\ 0\ 0 \end{array}$$

2. 竖式计算，带 * 的要验算。

654 + 329 =　　519 − 436 =　　* 307 + 496 =

660 − 356 =　　300 − 123 =　　* 507 − 253 =

281 + 204 + 197 =　　760 − 257 − 279 =　　934 − 246 + 75 =

关注微信公众号“教辅资料站”获取更多学习资料

3. 数学医院。（对的打“√”，错的打“×”，并改正）

$$\begin{array}{r} 237 \\ +856 \\ \hline 1083 \end{array}$$（　　）改正：

$$\begin{array}{r} 437 \\ +263 \\ \hline 600 \end{array}$$（　　）改正：

$$\begin{array}{r} 720 \\ -370 \\ \hline 450 \end{array}$$（　　）改正：

$$\begin{array}{r} 683 \\ -296 \\ \hline 483 \end{array}$$（　　）改正：

提升点 2：用三位数加减三位数解决问题

4. 800 米赛跑，娟娟跑了一段时间后，还有 224 米，娟娟跑了多少米？

5. 王师傅今天做了 274 个零件，李师傅比他多做了 52 个零件，他们两人今天一共做了多少个零件？

6. 二（4）班搬来一批本子。发给学生 345 本，还剩 376 本。

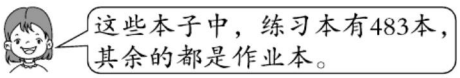

7.


523 千克


236 千克


88 千克

（1）一头牛和一只山羊大约共重多少千克？

（2）一头牛比一匹马重多少千克？

（3）你还能提出什么数学问题？提出一个并解答。

关注微信公众号“教辅资料站”获取更多学习资料

专项能力提升卷3 有余数的除法计算及应用

班级_____ 姓名_____ 时间：40分钟

提升点1：区分没有余数的和有余数的除法

1. 圈一圈，摆一摆，算一算。

（1）35根小棒，每7根一组，可以分成几组？

圈一圈：

列式：_____

（2）35根小棒，每8根一组，可以分为几组？还剩几根？

摆一摆：_____

列式：_____

2. 竖式计算。

63 ÷ 7 =　　75 ÷ 8 =　　32 ÷ 6 =　　51 ÷ 9 =

提升点2：有余数除法的计算

3. 填空。

（1）53里面最多有（　　）个8，余数是（　　）。

（2）在□ ÷7中，如果有余数，余数最大是（　　），最小是（　　）。

（3）☆ ÷5 =6……2，☆ =（　　）。

（4）（　　）÷7 =5……△，当△最大时，括号里应该是（　　）。

（5）（　　）里最大能填几？

（　　）×6 <51　7 ×（　　）<39　（　　）×8 <46　9 ×（　　）<38

4. 选择。（将正确答案的序号填在括号里）

（1）一个数除以8，余数最大是（　　）。

①8　　②7　　③6

（2）下列算式，有余数的除法算式是（　　）。

①40 ÷5　　②40 ÷7　　③40 ÷8

关注微信公众号“教辅资料站”获取更多学习资料

5. 连一连。

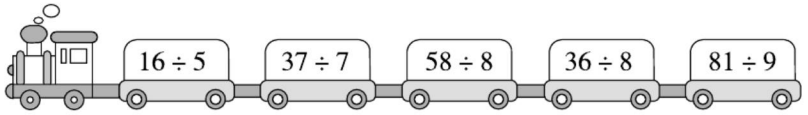

5……2	3……1	9	4……4	7……2

6. 直接写出商和余数。

42 ÷ 8 = （　　）……（　　）　　35 ÷ 6 = （　　）……（　　）

74 ÷ 9 = （　　）……（　　）　　31 ÷ 4 = （　　）……（　　）

提升点 3：用有余数的除法解决问题

7.



6元/本

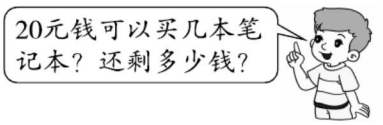

8. 每箱装 6 只，可以装几箱？还剩几只？



40只

9. 同学们做课间操，每 18 人站成一排，按“1、2、3、4”的顺序依次重复报数，每排的最后一个同学应该报几？

10. 二年级一班 52 个同学去春游，“飞天”每辆可以坐 8 人，碰碰船每条可以坐 6 人。

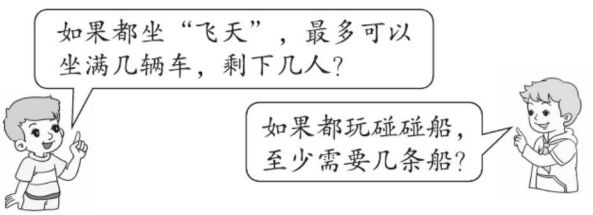

关注微信公众号“教辅资料站”获取更多学习资料

专项能力提升卷4 时、分、秒的换算及经过时间的计算方法

班级_____ 姓名_____ 时间：40分钟

提升点1：时、分、秒的区分与应用

1. 在括号里填上时、分或秒。


踢10下毽子约用8（　　）。


吃一个桃大约用1（　　）。


一节体育课上了40（　　）。


从重庆坐火车去北京大约要23（　　）。


西西唱一首歌大约需要2（　　）。


一辆小车在高速路上1（　　）大约行驶120 km。

2. 在◯里填上“>”“<”或“=”。

5分 ◯ 5秒　　40秒 ◯ 5分　　240分 ◯ 4时　　3时 ◯ 120分

100秒 ◯ 2分　　6时 ◯ 60分　　30秒 ◯ 半分钟　　5分 ◯ 500秒

3. 按时间的长短排列顺序。

6分　　35秒　　6时　　48分　　3秒

（　　）<（　　）<（　　）<（　　）<（　　）

提升点2：时间的换算

4. 算一算。

6时 =（　　）分　　1时15分 =（　　）分

4分 =（　　）秒　　92分 =（　　）分（　　）秒

关注微信公众号“教辅资料站”获取更多学习资料

5. 填一填。



上车：7:30
下车：7:50
乘车用的时间是_____



上课：8:10
下课：_____
一节课的时间是40分。



开始：晚上6:10
结束：_____
看电视用的时间是50分。

提升点3：用时、分、秒解决问题

6. 李叔叔加工1个零件要5分钟，照这样计算，半小时他能加工多少个零件？

7. 小宇从晚上7时起，先做30分的语文作业，再做20分的数学作业。

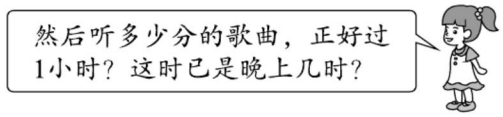

8. 小文放学的时间是下午4时20分，路上要走30分，途中到文具店买文具要用20分。



9.



起床：7：00
吃早饭：7：40~8：00
去书店：8：50~10：00
去公园：10：00~11：00

（1）买书花了多长时间？

（2）起床后2小时，莫欣正在干什么？

（3）去书店买书和去公园共花了多长时间？

关注微信公众号“教辅资料站”获取更多学习资料

专项能力提升卷5 常考易错题

班级_____ 姓名_____ 时间：40分钟

一、填一填，画一画。

1. 30里面最多有（　　）个8。

2. □÷9=3……△，△最大是（　　），当△最大时，□是（　　）。

3. 一个数由9个百，9个十和9个一组成，这个数是（　　），再添1个一是（　　）。

4. 右图中共有（　　）个平行四边形。



5. 写出下面物体的长度。

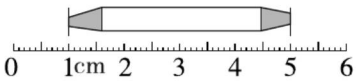

长（　　）cm

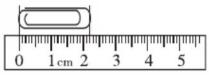

长（　　）mm

6.



7. 在○里填上“>”“<”或“=”。

22分米 ○ 3米　　900－523 ○ 990－478　　100秒 ○ 1分

25千米 ○ 2500米　　276＋408 ○ 176＋408　　1时45分 ○ 105分

8. 找规律，填一填，画一画。

（1）2050，2150，（　　），（　　），2450，（　　）。

（2）1＋7＝8，8＋7＝15，15＋7＝22，（　　），（　　）。

（3）

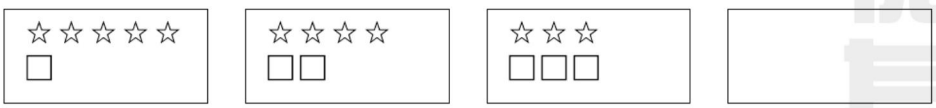

二、判断。（对的打“√”，错的打“×”）

1. 六千零六，写作：602。（　　）

2. 11时9分可以写成11:9。（　　）

3. 小敏高14分米，小琴高140厘米，她俩一样高。（　　）

4. 四条边都相等的四边形一定是正方形。（　　）

关注微信公众号“教辅资料站”获取更多学习资料

三、选择。（将正确答案的序号填在括号里）

1. ☆ ÷ □ = △……7，□最小是（　　）。

①6　　②7　　③8

2. 由两个 6 和两个 0 组成的数中，一个零也不读的是（　　）。

①6006　　②6600　　③6060

3. 现在是 8 时 20 分，学校已经打上课铃 30 分钟了，学校是（　　）上课的。

①7 时 50 分　　②8 时 50 分　　③7 时 10 分

4. 一件上衣 356 元，一双鞋 248 元，妈妈要买这两样，600 元（　　）。

①够　　②不够　　③无法判断

四、下面的计算对吗？（对的打“√”，错的打“×”，并改正）

```
  400          368          7
-214         +475        6)51
 196          733         42
                           9
```

改正：　　改正：　　改正：

（　　）　　（　　）　　（　　）

五、解决问题。

1. 30 道口算题，小宁用了 104 秒，小会用了 2 分，谁算得快？快多少秒？

2. 王阿姨家养了 503 只公鸡，养的母鸡比公鸡少 124 只，公鸡和母鸡一共养了多少只？

3. 实验小学 3 位老师带领 26 名同学参加市“合唱”表演，需要坐车。

（1）如果只坐小车，至少需要几辆？

　　

小车限乘 4 人　　面包车限乘 7 人

（2）如果两种车都坐，怎样派车没有空座位？

关注微信公众号“教辅资料站”获取更多学习资料

专项能力提升卷6 填空题

班级_____ 姓名_____ 时间：40分钟

专项1：万以内数的读与写及比较

1. 10个100是（　　），100个100是（　　）。

2. 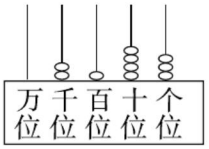

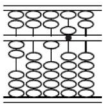


写作：（　　）　写作：（　　）　写作：（　　）

读作：（　　）　读作：（　　）　读作：（　　）

3. 三千零四十六是由3个（　　），（　　）个十，6个（　　）组成的，写作：（　　）。

4. 一个四位数，千位上和十位上都是3，其余数位上都是0，这个数是（　　），读作（　　）。

5. 最小的五位数与最大的四位数相差（　　）。

6. 一个四位数，最高位上是5，最低位上是1，其余两位上是0，这个数写作（　　），读作（　　）

7. 一个数由5个千，7个百和9个一组成，这个数写作（　　），它是（　　）位数，与它相邻的两个数是（　　）和（　　）。

8. 由0，0，4，7组成的四位数中，只读一个零的数有（　　）、（　　）、（　　）、（　　），一个零都不读的数有（　　）、（　　）。

9. 用7，8，0，5组成的最大的四位数是（　　），最小的四位数是(　　)。

10. 按从小到大的顺序排列各数。

9070　9700　9007　7009　999　7900

（　　）<（　　）<（　　）<（　　）<（　　）<（　　）

11. 先填数，再比较。

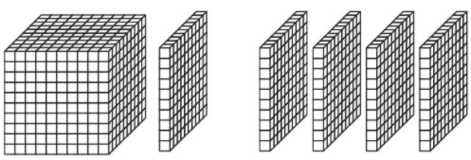

（　　）○（　　）

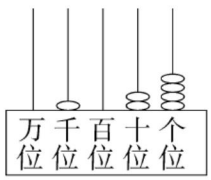

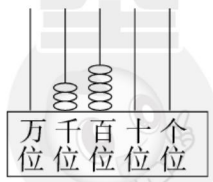

（　　）○（　　）

关注微信公众号“教辅资料站”获取更多学习资料

12. 7□45 > 7649，□里最小填（　　）。

□538 < 7537，□里最大填（　　）。

专项 2：长度单位的认识

13. （1）牙刷长约 18（　　）。

（2）一部手机长约 140（　　）。

（3）电视柜高约 5（　　）。

（4）机场跑道长约 4000（　　）。

（5）万里长城大约有 21196（　　）。

专项 3：三位数的加减法

14. 一个数减 1 是 998，这个数加 1 是（　　）。

15. 700 比 256 多（　　），比 530 多 170 的数是（　　）。

16. 甲数是 900，比乙数多 109，乙数是（　　）。

17. 一种手机，现价是 750 元，比原价降低了 250 元，原价是（　　）元。

18. 一张办公桌原价 998 元，“五一”节期间每张 795 元，每张大约便宜了（　　）元。

19. 果塘公园走 1 圈 893 m，奶奶每天走两圈，大约走了（　　）m。

专项 4：有余数的除法

20. 在算式☆ ÷ ○ = △……7 中，○最小应该是（　　）。

21. 算式△ ÷ 7 = 3……☆中，☆可以填的数有（　　）。

22. 一本《作文》有 59 页，小娟每天读 8 页，要（　　）天才能看完。

23. 25 个梨，每 6 个装一袋，能装（　　）袋，还剩（　　）个。

24.（　　）÷ 6 = 7……□，当□最大时，括号里应该是（　　）。

专项 5：时、分、秒的区分与比较

25. 上午 9 时整，钟面上的时针和分针成（　　）角。

26. 实验三小下午 2:00 开始举行礼仪法制教育，下午 4:20 结束，这次活动用的时间为（　　）。

27. 分针从 12 走到 4 是（　　）分，秒针从 5 走到 8 是（　　）秒，时针与分针重在一起是 12（　　）。

28. 4:10，50 分钟前是（　　），3:20，40 分钟后是（　　）。

29. 按时间的长短排列顺序。

9 分　　15 秒　　2 时　　35 分　　40 秒　　半小时

（　　）>（　　）>（　　）>（　　）>（　　）>（　　）

关注微信公众号“教辅资料站”获取更多学习资料

专项能力提升卷7 选择题

班级_____ 姓名_____ 时间：40分钟

专项1：万以内的数的认识和读写

1. 8000前面一个数是（　　）。
①7000　②8001　③7999

2. 6003这个数中的6表示6个（　　）。
①千　②百　③一

3. 最小的五位数比最大的四位数大（　　）。
①100　②900　③1

4. 下面最接近7000的数是（　　）。
①6099　②7695　③6998

5. 根据三千零二写出的数，中间（　　）。
①有1个0　②有2个0　③没有0

6. 用0，2，4，9这四个数组成的最小四位数是（　　）。
①2049　②2409　③4029

7. 7009读作（　　）。
①七千零九　②七千零零九　③七百零九

8. 写八千六百时，数的末尾（　　）。
①有一个0　②有2个0　③没有0

9. 读7020时，应该（　　）。
①读1个零　②读2个零　③1个零也不读

专项2：长度单位的认识

10. 一个隧道长约5（　　）。
①厘米　②千米　③分米

11. 我家的门高约300（　　）。
①cm　②dm　③m

12. 姑姑的身高是162（　　）。
①米　②分米　③厘米

关注微信公众号“教辅资料站”获取更多学习资料

专项3：用三位数加、减三位数

13. 10个十和10个一百相差（　　）。

①900　　②90　　③10

14. 842－657＝（　　）。

①195　　②185　　③285

15. 1000比（　　）大250。

①650　　②750　　③850

16. 验算876－309＝567，正确的方法是（　　）。

①876＋567　　②567－309　　③567＋309

专项4：认识长方形、正方形、平行四边形

17. 正方形的四个角和长方形的四个角相比较，（　　）。

①正方形的角大　　②长方形的角大　　③相等

18. 在正方形中，一条边的长是20 m，其余三条边的长都是（　　）。

①60 m　　②40 m　　③20 m

19. 当长方形的宽增加到和长同样长时，就变成了（　　）。

①长方形　　②正方形　　③三角形

20. 有（　　）个平行四边形。

①1　　②2　　③3

专项5：除法中的余数要比除数小

21. □÷☆＝7……4，☆最小是（　　）。

①4　　②5　　③6

22. 32个苹果，每个盘子放6个，至少要（　　）个盘子。

①4　　②5　　③6

专项6：选择合适的时间单位

23. 时针从3走到6，要走（　　）。

①30分　　②3时　　③15分

24. 3时差5分，记作（　　）。

①30∶05　　②3∶05　　③2∶55

25. 洋洋和贝贝的家距学校一样远，下午放学回家，洋洋走了25分，贝贝走了20分，（　　）走得快。

①贝贝　　②洋洋　　③一样

26. 火车下午1∶15出发，路上用了5时35分，下午（　　）到达。

①7∶00　　②6∶50　　③4∶20

关注微信公众号“教辅资料站”获取更多学习资料

专项能力提升卷8 计算题（一）

班级_____ 姓名_____ 时间：40分钟

专项1：口算

1. 直接写出得数。

30 + 70 =　　450 − 50 =　　600 − 300 =

400 + 500 =　　680 − 600 =　　7000 − 0 =

2. 在（　　）里填上适当的数。

（　　）+ 230 = 530　　400 +（　　）= 900　　400 −（　　）= 200

640 −（　　）= 40　　（　　）− 90 = 300　　（　　）− 100 = 500

专项2：算式间的大小关系

3. 在◯里填上“ > ”“ < ”或“ = ”。

75 + 785 ◯ 815 + 45　　345 − 217 ◯ 23 + 157

600 + 800 ◯ 900 + 300　　630 + 80 ◯ 800 − 80

933 − 701 ◯ 200 + 30　　3900 − 600 ◯ 3000 + 300

759 − 699 ◯ 356 − 155　　4000 − 3000 ◯ 600 + 500

专项3：计算

4. 计算并验算。

315 + 408 =　　768 − 469 =　　325 + 496 =

5. 用竖式计算。

178 + 352 =　　386 − 99 =　　900 − 274 =

关注微信公众号“教辅资料站”获取更多学习资料

218 + 104 + 295 =　　950 − 356 − 388 =　　875 − 262 + 243 =

6. 算一算，填一填。

（1）填表。

被减数	511		845	323
减数	115	374		
差		473	845	223

加数	236		359	257
加数	513	236		304
和		456	675	

（2）在□里填上适当的数字。

$$\begin{array}{r} 2\,\square\,6 \\ +\,\square\,2\,\square \\ \hline 8\;5\;2 \end{array} \qquad \begin{array}{r} 9\,\square\,4 \\ -\,\square\,5\;7 \\ \hline 4\;6\;\square \end{array} \qquad \begin{array}{r} 4\,\square\,7 \\ -\,\square\,8\,\square \\ \hline 2\;9\;8 \end{array} \qquad \begin{array}{r} 4\;3\;0 \\ +\,\square\,\square\,5 \\ \hline 7\;7\;\square \end{array}$$

7. 估算。

（1）两种书一共约有多少本？

想：把 489 看成（　　），307 看成（　　）。

计算：（　　）+（　　）=（　　）（本）



489本　307本

（2）买一台微波炉和一台豆浆机大约需要多少元？

想：把 819 看成（　　），793 看成（　　）。

计算：（　　）+（　　）=（　　）（元）


819元


793元

专项 4：长度单位的换算

8. 看谁算得又对又快。

5 km + 5 km =（　　）km　　16 km − 6 km =（　　）km

100 m − 97 m =（　　）m　　34 m + 60 m =（　　）m

12 dm + 8 dm =（　　）dm =（　　）m

40 mm + 60 mm =（　　）mm =（　　）dm

关注微信公众号“教辅资料站”获取更多学习资料

专项能力提升卷9 计算题（二）

班级_____ 姓名_____ 时间：40分钟

专项1：口算

1. 直接写出得数。

30 ÷ 5 =	6 × 7 =	72 ÷ 8 =	81 ÷ 9 =
35 ÷ 7 =	9 × 5 =	42 ÷ 7 =	48 ÷ 6 =
32 ÷ 8 =	8 × 3 =	28 ÷ 4 =	27 ÷ 3 =

2. 直接写出商和余数。

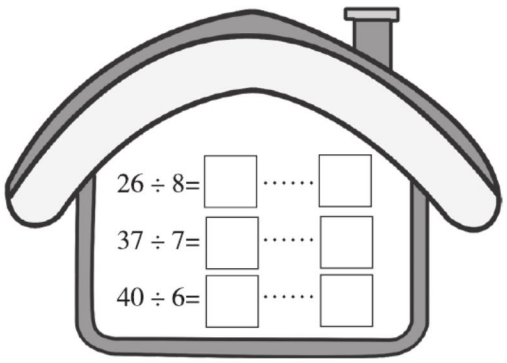

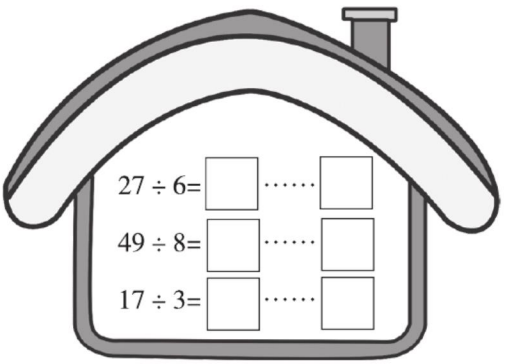

专项2：商有余数的除法的计算

3. （　　）里最大能填几？

7 ×（　　）< 34	（　　）× 5 < 32	（　　）× 8 < 70
4 ×（　　）< 34	（　　）× 6 < 43	（　　）× 5 < 36

4. 用竖式计算。

63 ÷ 9 =	28 ÷ 9 =	38 ÷ 6 =	54 ÷ 8 =
41 ÷ 6 =	35 ÷ 8 =	47 ÷ 9 =	56 ÷ 7 =

关注微信公众号“教辅资料站”获取更多学习资料

5. 小白兔采蘑菇。（连一连）

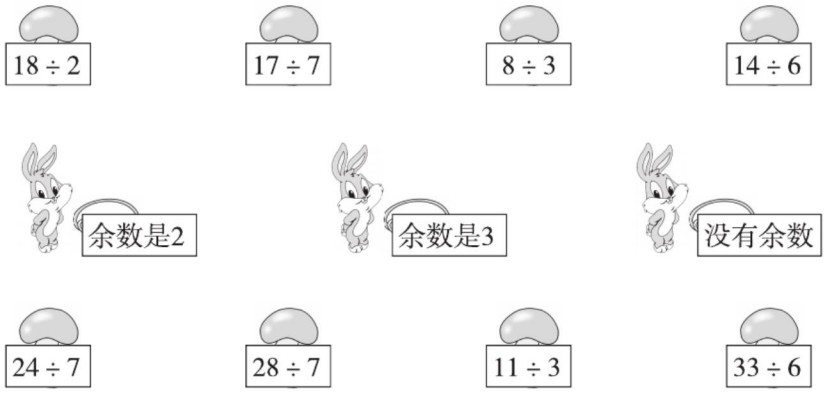

6. 填表。

被除数	30	31		42
除数	4	6	5	7
商			6	
余数			2	

7. 算一算，填一填。

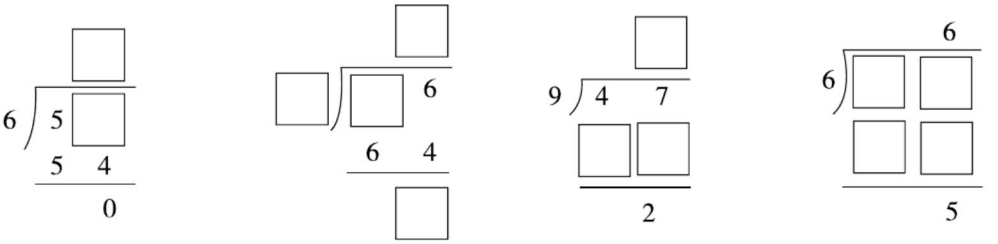

8. 下面的计算对吗？（对的打“√”，错的打“×”，并改正）

$4\overline{)36}$ 8　32　4　（　　）改正：

$3\overline{)25}$ 7　21　4　（　　）改正：

$5\overline{)34}$ 6　30　4　（　　）改正：

专项3：时间的计算

9. 5时18分＋42分＝（　　）时

20秒＋70秒＝（　　）分（　　）秒

30分＋30分＝（　　）分＝（　　）时

200秒－20秒＝（　　）秒＝（　　）分

1时40分＋60分＝（　　）时（　　）分

12时40分－8时30分＝（　　）时（　　）分

关注微信公众号“教辅资料站”获取更多学习资料

专项能力提升卷10 图形题

班级_____ 姓名_____ 时间：40分钟

专项1：图形的认识

1. 量一量。

(1)

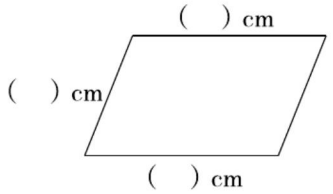

(2)

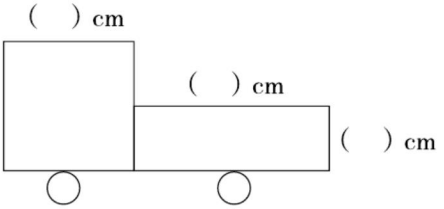

2. 数一数。

(1)



(　　) 个正方形

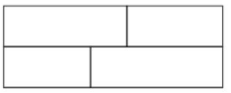

(　　) 个长方形

(2)

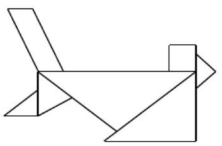

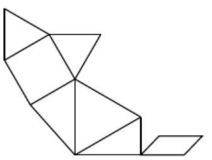

上面两个图形中，一共有(　　) 个正方形，(　　) 个三角形和(　　)个平行四边形。

3. 在括号里填上合适的数。(单位：cm)

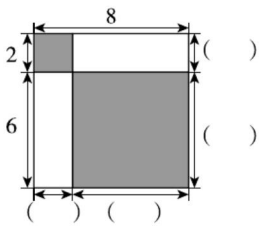

专项2：图形的拼组

4. 下面的图形中，第(　　) 组能拼成一个平行四边形。

①

②

③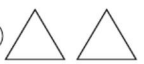

关注微信公众号“教辅资料站”获取更多学习资料

5. 把一张长方形纸对折一次，不可能得到两个（　　）。

①长方形　　②正方形　　③平行四边形

6. 用（　　）个可以拼成1个。

①4　　②8　　③10

7. 用（　　）个完全一样的正方形不能拼成一个大正方形。

①4　　②8　　③16

专项3：图形的画法及截取

8. 在方格纸上画1个含有10个方格的长方形和1个含有9个方格的正方形。

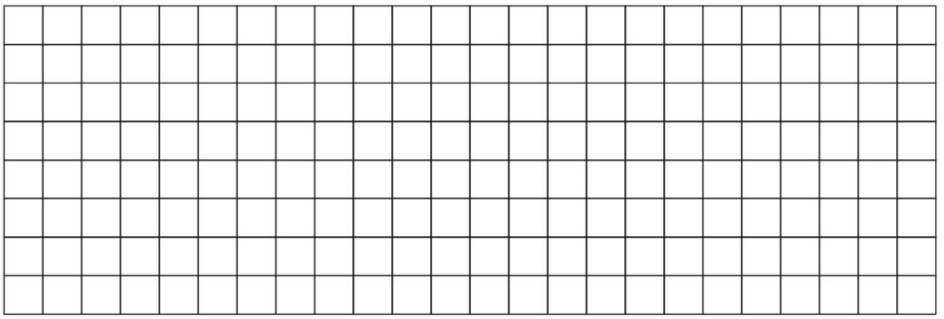

9. 在下图的长方形中截一个最大的正方形。

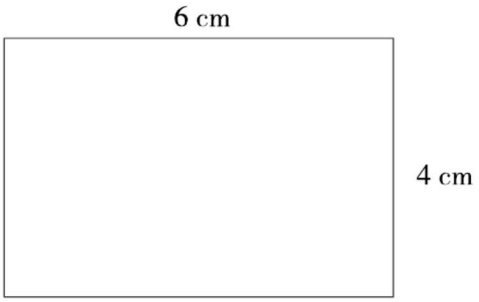

（1）截出的正方形的边长是（　　）cm。

（2）剩下的图形是一个长方形，这个长方形的长是（　　）cm，宽是（　　）cm。

（3）如果在剩下的图形中再截一个最大的正方形，这个正方形的边长是（　　）cm。

关注微信公众号“教辅资料站”获取更多学习资料

专项能力提升卷11 应用题（一）

班级_____ 姓名_____ 时间：40分钟

专项1：估算问题

1.



电风扇203元



自行车396元

（1）买一台电风扇和一辆自行车大约需要多少钱？

（2）一辆自行车比一台电风扇大约贵多少钱？

2. 农村淘宝店发展真快，昨天高阳店送出的快递比长石店多一些，石门店送出的快递比高阳店少得多。在下表中填入合适的店名。

130件	540件	600件

专项2：加减法的应用

3. 两个公司一共购买了多少辆出租车？



4. 洗衣机多少钱？

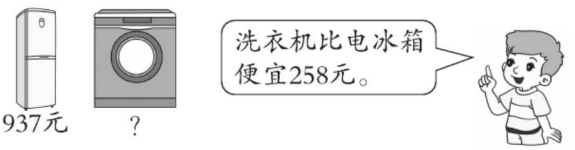

关注微信公众号“教辅资料站”获取更多学习资料

5. 小花身高 113 cm，小云比小花高 25 cm，小琴比小云矮 8 cm，小琴高多少厘米？

6. 小兔姐妹上山采蘑菇，一共采了多少朵？



7. 李师傅加工一批零件，李师傅一共要加工多少个零件？



8. 去年一部手机售价是 985 元，今年二月份降价 150 元，三月份又降价 258 元，现在买这部手机需要多少钱？（用两种方法解答）

9. 一列动车在起点站上了 578 人。

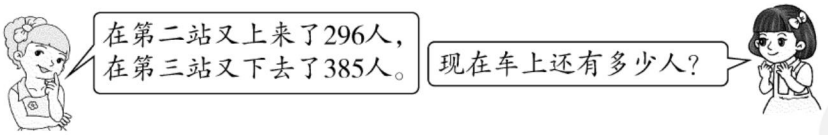

10. 学校食堂有大米 623 千克，吃了一些后，又运来 375 千克，这时还有大米 492 千克，吃了多少千克大米？

关注微信公众号“教辅资料站”获取更多学习资料

专项能力提升卷12 应用题（二）

班级_____ 姓名_____ 时间：40分钟

专项1：有余数的除法问题

1. 赵大爷有24元钱。



3元



6元



9元

（1）可以买几瓶冰红茶？

（2）买3瓶欢乐家后，还剩多少钱？

（3）你还能提出什么数学问题吗？提出一个问题，并解答。

2.



3.

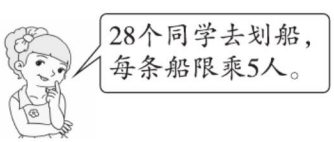

4. 小丽有10元钱，买3元一个的面包，最多能买几个？

关注微信公众号“教辅资料站”获取更多学习资料

5. 一批货物共51吨，大卡车每次运9吨，小卡车每次运6吨。

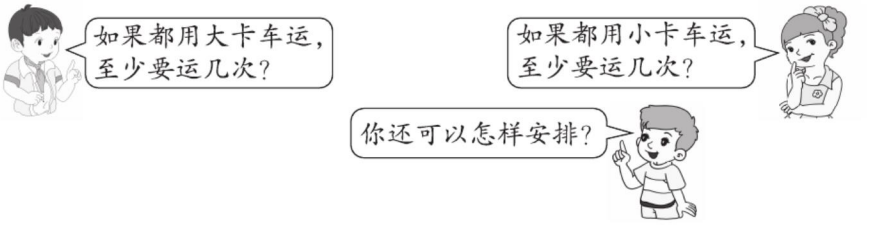

专项2：时间的应用问题

6. 观察钟面①和钟面②，回答问题。



（1）钟面①是（　　）时，钟面②是（　　）时（　　）分。

（2）由钟面①到钟面②经过了（　　）分。

（3）说一说，星期一这段时间，你是在家里还是在学校？为什么？

7. 观察图书馆开放的时间表，回答问题。

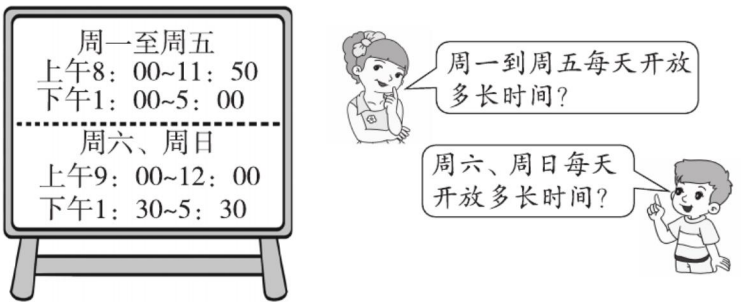

关注微信公众号“教辅资料站”获取更多学习资料

参考答案及点拨（小卷）

周测培优卷 1

一、1. 10　10　2. 3　5　3050
3. 7　2　3　千　十　一　4. 三　万
5. （1）9004　（2）9090　九千零九十
（3）8004　八千零四
6. 四　千　7. 千　千　十　十　8. 1
9. （1）490　491　493　494　（2）3290　3300　3330
二、1. ×　2. √　3. ×　4. ×　5. √　6. ×
三、1. 4130　四千一百三十　3000　三千　5203　五千二百零三
2. 998　1000　9000　10000
3.
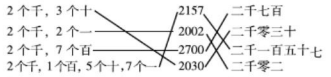

4. （1）四千　（2）1009　（3）6397
5. （1）7300　七千三百（答案不唯一）
（2）7030　七千零三十（答案不唯一）

周测培优卷 2

一、1. 883　899　899　883　2. 6000，7000
3. 三　四　6084
4. 899　901　998　1000　4098　4100
5. 99　6. 5　8　9　4（答案均不唯一）
7. <　>　>　<　>　>　8. 90
二、1. ②　2. ③　3. ①　4. ①
三、
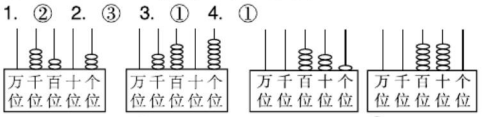

4203 ＞ 3506　　431 ＜ 550
四、1. 2823 > 2789 > 1899 > 853 > 698
2. （1）①　②　（2）②　①
五、1. √ 6407
2.

1326 只	1770 只	1300 只
		♡

1348 只	2770 只	1300 只
	☆	

周测培优卷 3

一、1. 5000　8　600　10000　8　10　1　100　10　1
2. =　<　=　>　=　>
二、1. ×　2. ×　3. ×　4. √　5. ×
三、1. ①　2. ③　3. ②　4. ①　5. ②
四、1.
2. 2　1　3. 5 km　5 m　5 dm　5 cm　5 mm
4.
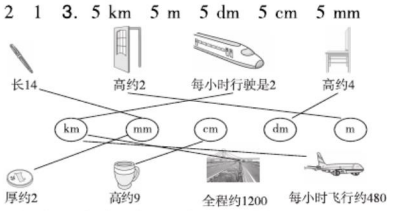

五、1. 10 + 8 = 18（cm）　18 cm = 180 mm
答：这支铅笔原来长 18 cm，也就是 180 mm。
2. 2 × 9 = 18（米）　18 米 < 19 米
答：做 9 根跳绳够。
3. 4 km = 4000 m　4000 + 5000 = 9000（m）
答：从洋洋家经过图书馆到园博园的路程是 9000 m。

周测培优卷 4

一、1. 570　500　2. 400　490　700　370　50　30
3. <　<　>　=　4. 900　500　400　5. 995
二、1. ②　2. ③　3. ②　4. ③
三、1. 1000　100　600　40　350　530
2. 280　70 + 210 = 280　200　200 + 300 = 500（验算不唯一）
3. 222 + 188 = 410　465 + 294 = 759

$$\begin{array}{r} 222 \\ +188 \\ \hline 410 \end{array} \qquad \begin{array}{r} 465 \\ +294 \\ \hline 759 \end{array}$$

38 + 268 = 306　267 + 346 = 613

$$\begin{array}{r} 38 \\ +268 \\ \hline 306 \end{array} \qquad \begin{array}{r} 267 \\ +346 \\ \hline 613 \end{array}$$

4. ×　改正：$\begin{array}{r} 354 \\ +418 \\ \hline 772 \end{array}$　×　改正：$\begin{array}{r} 785 \\ +367 \\ \hline 1152 \end{array}$
×　改正：$\begin{array}{r} 634 \\ +178 \\ \hline 812 \end{array}$
四、
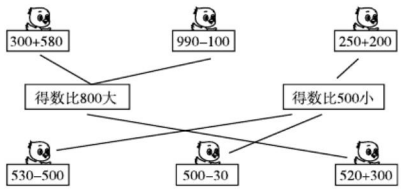

五、1. 368 + 232 = 600（米）　答：下午用电线 600 米。
2.（1）400 + 300 = 700（元）
答：买一张床和一个电饭煲大约要 700 元钱。
（2）108 + 599 = 707（元）
答：买一盏台灯和一台微波炉一共要 707 元钱。
（3）一张床比一盏台灯贵多少钱？
389 − 108 = 281（元）
答：一张床比一盏台灯贵 281 元钱。
［点拨］（3）题答案不唯一。

周测培优卷 5

一、1. 142　887　2. 380　47　9　38　380　3. 144
4. >　>　>　>　<　=
5.（1）6　6　10　（2）30　10
（3）30　（4）□△△△△△
二、1. ②　2. ③　3. ②　4. ③
三、1. 150　50　680　100　157　200
2. 381 − 154 = 227　802 − 585 = 217

$$\begin{array}{r} 381 \\ -154 \\ \hline 227 \end{array} \qquad \begin{array}{r} 802 \\ -585 \\ \hline 217 \end{array}$$

验算：$\begin{array}{r} 217 \\ +585 \\ \hline 802 \end{array}$

700 − 215 = 485

$$\begin{array}{r} 700 \\ -215 \\ \hline 485 \end{array}$$

验算：$\begin{array}{r} 485 \\ +215 \\ \hline 700 \end{array}$

3. ×　改正：$\begin{array}{r} 427 \\ -128 \\ \hline 299 \end{array}$　×　改正：$\begin{array}{r} 900 \\ -\ 26 \\ \hline 874 \end{array}$
×　改正：$\begin{array}{r} 607 \\ -499 \\ \hline 108 \end{array}$
四、1. 920 − 675 = 245（元）　708 − 569 = 139（元）
答：羽绒服的价格比原来便宜了 245 元。毛衣的价格比原来便宜了 139 元。
2. 453 + 78 = 531（元）　531 + 453 = 984（元）
答：两个店昨天共赢利 984 元。
3.（1）8　（2）6　（3）4　3
4.（1）456 + 58 = 514（棵）　456 + 514 = 970（棵）
答：一共种了 970 棵橘子树和梨树。

关注微信公众号“教辅资料站”获取更多学习资料

［点拨］应先算出梨树的棵数，从题中可知种的梨树比橘子树多 58 棵，求出梨树的棵数后即可求解。

（2）橘子树和桃树一共有多少棵？

456 + 127 = 583（棵）

答：橘子树和桃树一共有 583 棵。

［点拨］答案不唯一。

周测培优卷 6

一、1. 相等　直　直　对

2. 4　3. 房子　2　2　2　3　2

二、1. ×　2. ×　3. √　4. ×　5. ×

三、1.



2.

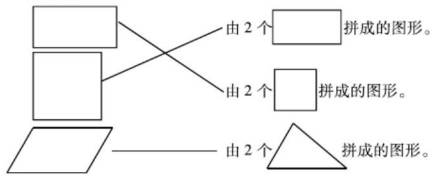

四、1. 略　2.（1）10　8　（2）7

3.（1）略

（2）

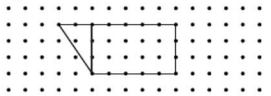

（答案不唯一）

4. 3　9

周测培优卷 7

一、1.（1）5　1　21　4　5　1

（2）4　1　21　5　4　1

2. 6　5　3. 1，2，3，4，5

4. 5　6　3　4　6　5　5. 6　7　2

二、1. √　2. ×　3. ×

三、1. ②　2. ③　3. ①

四、1. 7　7……1　8　18　5　4……1

2. 45 ÷ 6 = 7……3　　52 ÷ 8 = 6……4　　42 ÷ 6 = 7

$$6\overline{)45}\quad\begin{array}{r}7\\42\\\hline3\end{array}\qquad 8\overline{)52}\quad\begin{array}{r}6\\48\\\hline4\end{array}\qquad 6\overline{)42}\quad\begin{array}{r}7\\42\\\hline0\end{array}$$

3. ×　改正：$8\overline{)41}\ \begin{array}{r}5\\40\\\hline1\end{array}$　　×　改正：$8\overline{)60}\ \begin{array}{r}7\\56\\\hline4\end{array}$

×　改正：$6\overline{)48}\ \begin{array}{r}8\\48\\\hline0\end{array}$

五、1. 15 ÷ 2 = 7（本）……1（元）

答：可以买 7 本日记本，还剩 1 元。

2. 50 ÷ 8 = 6（箱）……2（千克）

答：可以装 6 箱，还剩 2 千克。

3. 46 ÷ 6 = 7（组）……4（人）

答：一共分成 7 组，还剩 4 人。

4.（1）49 ÷ 6 = 8（盒）……1（个）

答：可以装 8 盒，还剩 1 个。

（2）49 ÷ 9 = 5（个）……4（个）

答：平均每盒装 5 个，还剩 4 个没有装。

周测培优卷 8

一、1. 10　2. 180　2　90　30　100　1　25

3. <　=　<　>　<　<

4.（1）时　（2）秒　（3）分　（4）秒　（5）秒　（6）分

5.（1）35　（2）90

二、1. ×　2. ×　3. ×　4. √　5. ×

三、1.



2.

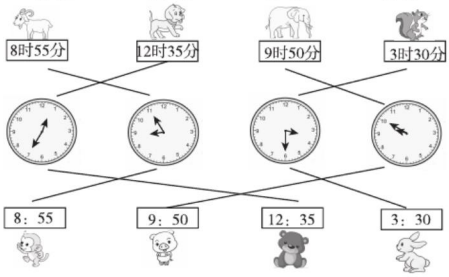

四、1. 8 时 10 分 + 40 分 = 8 时 50 分

答：第一节课 8 时 50 分下课。

2. 5 时 40 分 + 8 分 = 5 时 48 分

答：动画片《奥姆的故事》是 5 时 48 分开始播放。

3.（1）



［点拨］1 分 23 秒 < 1 分 24 秒 < 1 分 26 秒 < 1 分 27 秒。

（2）1 分 27 秒 = 87 秒　1 分 23 秒 = 83 秒

87 − 83 = 4（秒）

答：小林跑完 400 m 比小光多用了 4 秒。

周测培优卷 9

一、1. 6　4　5　2. 两　9　6

二、1.

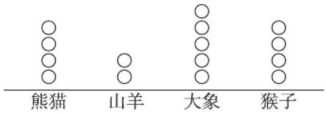

（4）只　（2）只　（5）只　（4）只

2.（1）②　（2）③　（3）③

三、正　丅　下　下

四、1.（方法不唯一）　正　正　正

2. 6　8　7　3. 2　21　4. ☆　⚐

五、1. 26　22　19　22

2. 申通　顺丰　圆通

3. 26 + 22 + 19 + 22 = 89（件）

答：这个菜鸟驿站 5 月 10 日下午一共收快递 89 件。

4. 这个菜鸟驿站 5 月 10 日下午一共收申通快递和百世快递的快递多少件？

26 + 19 = 45（件）

答：这个菜鸟驿站 5 月 10 日下午一共收申通快递和百世快递的快递 45 件。

［点拨］本题答案不唯一。

期末总复习

专项能力提升卷 1

1. 4　4　千　2. 个　4　一　4　百

3. 四　千　千　十　十　4. 7090　605

5. 三千零四十　一千三百　七千零三　6. 6000　3001　3078

7.（1）2500　5200　（2）2005　5002（或 2050　5020）

8. 150

9.

49 下	106 下	114 下	130 下	209 下
小灿		小贝		小兰

10.（1）杨柳　五星　高阳　（2）少得多

专项能力提升卷 2

1.（1）440　320　300　200　300　900

（2）>　>　>　<　=　>

（3）

$$\begin{array}{r}600\\-\ 463\\\hline137\end{array}\qquad\begin{array}{r}813\\+\ 194\\\hline1007\end{array}\qquad\begin{array}{r}803\\-\ 348\\\hline455\end{array}\qquad\begin{array}{r}343\\+\ 657\\\hline1000\end{array}$$

［点拨］第 1，3 个竖式答案不唯一。

关注微信公众号“教辅资料站”获取更多学习资料

2. 654 + 329 = 983　　519 − 436 = 83

307 + 496 = 803　　验算：

660 − 356 = 304　　300 − 123 = 177

507 − 253 = 254　　验算：

281 + 204 + 197 = 682

760 − 257 − 279 = 224　　934 − 246 + 75 = 763

3. ×　改正：　　×　改正：

×　改正：　　×　改正：

4. 800 − 224 = 576（米）　**答：**娟娟跑了 576 米。

5. 274 + 52 = 326（个）　274 + 326 = 600（个）
答：他们两人今天一共做了 600 个零件。

6. 345 + 376 = 721（本）　721 − 483 = 238（本）
答：作业本有 238 本。
[点拨] 发了的本数加上还剩的本数就是这批本子的总数量，用这批本子的总数量减去练习本的本数即可求解。

7. （1）500 + 100 = 600（千克）
答：一头牛和一只山羊大约共重 600 千克。
[点拨] 还可以这样算：520 + 90 = 610（千克）。
（2）523 − 236 = 287（千克）
答：一头牛比一匹马重 287 千克。
（3）一匹马和一头牛一共重多少千克？
236 + 523 = 759（千克）
答：一匹马和一头牛一共重 759 千克。
[点拨] 本题答案不唯一。

专项能力提升卷 3

1. （1）圈一圈略。　35 ÷ 7 = 5（组）
（2）摆一摆略。　35 ÷ 8 = 4（组）……3（根）

2. 63 ÷ 7 = 9　75 ÷ 8 = 9……3　32 ÷ 6 = 5……2　51 ÷ 9 = 5……6

3. （1）6　5　（2）6　1　（3）32　（4）41
（5）8　5　5　4

4. （1）②　（2）②

5. 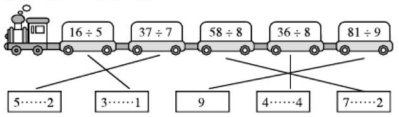

6. 5　2　5　5　8　2　7　3

7. 20 ÷ 6 = 3（本）……2（元）
答：20 元钱可以买 3 本笔记本，还剩 2 元钱。

8. 40 ÷ 6 = 6（箱）……4（只）　**答：**可以装 6 箱，还剩 4 只。

9. 18 ÷ 4 = 4……2
答：每排的最后一个同学应该报 2。
[点拨] 18 人里面有 4 个 4 人余 2 人，所以每排的最后一个同学应该报 2。

10. 52 ÷ 8 = 6（辆）……4（人）
答：最多可以坐满 6 辆车，剩下 4 人。
52 ÷ 6 = 8（条）……4（人）　8 + 1 = 9（条）
答：至少需要 9 条船。
[点拨] 坐满 8 条碰碰船后，还剩下 4 人没坐，所以至少需要 9 条船。

专项能力提升卷 4

1. 秒　分　分　时　分　时
2. >　<　=　>　<　>　=　<
3. 3 秒　35 秒　6 分　48 分　6 时　4. 360　75　240　1　32
5. 20 分　8：50　晚上　7：00
6. 30 ÷ 5 = 6（个）　**答：**半小时他能加工 6 个零件。
7. 60 − 30 − 20 = 10（分）　**答：**听 10 分的歌曲，正好过 1 小时。
7 时 + 1 时 = 8 时　**答：**这时已是晚上 8 时。
8. 4 时 20 分 + 30 分 = 4 时 50 分　4 时 50 分 + 20 分 = 5 时 10 分
5 时 10 分 > 5 时　**答：**小文下午 5 时没有到家。
9. （1）10 时 − 8 时 50 分 = 1 时 10 分　**答：**买书花了 1 时 10 分。
（2）7 时 + 2 时 = 9 时
答：起床后 2 小时，莫欣正在书店买书。
[点拨] 从“去书店：8：50 ~ 10：00”这一信息中我们知道 9 时莫欣在书店买书。
（3）11 时 − 8 时 50 分 = 2 时 10 分
答：去书店买书和去公园共花了 2 时 10 分。

专项能力提升卷 5

一、1. 3　2. 8　35　3. 999　1000　4. 10
5. 4　22　6. 55　10　7. <　<　>　>　>　=
8. （1）2250　2350　2550　（2）22 + 7 = 29　29 + 7 = 36
（3）

二、1. ×　2. ×　3. √　4. ×

三、1. ③　2. ②
3. ①　**[点拨]** 8 时 20 分 − 30 分 = 7 时 50 分。
4. ②

四、×　改正：　　×　改正：

×　改正：

五、1. 2 分 = 120 秒　120 − 104 = 16（秒）
答：小宁算得快，快 16 秒。
2. 503 − 124 = 379（只）　379 + 503 = 882（只）
答：公鸡和母鸡一共养了 882 只。
3. （1）26 + 3 = 29（人）　29 ÷ 4 = 7（辆）……1（人）
7 + 1 = 8（辆）　**答：**至少需要 8 辆。
（2）7 × 3 = 21（人）　29 − 21 = 8（人）
8 ÷ 4 = 2（辆）　**答：**小车派 2 辆，面包车派 3 辆。

专项能力提升卷 6

1. 1000　10000
2. 2143　二千一百四十三　2015　二千零一十五　3500　三千五百
3. 千　4　一　3046　4. 3030　三千零三十
5. 1　6. 5001　五千零一　7. 5709　四　5708　5710
8. 7004　4007　7040　4070　7400　4700　9. 8750　5078
10. 999　7009　7900　9007　9070　9700
11. 1100　>　400　1024　<　3500　12. 7　6
13. （1）cm　（2）mm　（3）dm　（4）m　（5）km
14. 1000　15. 444　700　16. 791　17. 1000　18. 200
19. 1800　20. 8　21. 1，2，3，4，5，6　22. 8　23. 4　1
24. 47　25. 直　26. 2 时 20 分　27. 20　15　时
28. 3：20　4：00　29. 2 时 35 分　半小时 9 分 40 秒　15 秒

专项能力提升卷 7

1. ③　2. ①　3. ③　4. ③　5. ②　6. ①　7. ①
8. ②　9. ①　10. ②　11. ①　12. ③　13. ①　14. ②

关注微信公众号“教辅资料站”获取更多学习资料

15. ② 16. ③ 17. ③ 18. ③ 19. ② 20. ②
21. ② 22. ③ 23. ② 24. ③ 25. ① 26. ②

专项能力提升卷 8

1. 100 400 300 900 80 7000
2. 300 500 200 600 390 600
3. = < > < > = < <
4. 315 + 408 = 723　　768 − 469 = 299

$$\begin{array}{r} 315 \\ +408 \\ \hline 723 \end{array}$$ 验算： $$\begin{array}{r} 408 \\ +315 \\ \hline 723 \end{array}$$　　$$\begin{array}{r} 768 \\ -469 \\ \hline 299 \end{array}$$ 验算： $$\begin{array}{r} 299 \\ +469 \\ \hline 768 \end{array}$$

325 + 496 = 821

$$\begin{array}{r} 325 \\ +496 \\ \hline 821 \end{array}$$ 验算： $$\begin{array}{r} 496 \\ +325 \\ \hline 821 \end{array}$$

5. 178 + 352 = 530　386 − 99 = 287　900 − 274 = 626

$$\begin{array}{r} 178 \\ +352 \\ \hline 530 \end{array}$$　$$\begin{array}{r} 386 \\ -99 \\ \hline 287 \end{array}$$　$$\begin{array}{r} 900 \\ -274 \\ \hline 626 \end{array}$$

218 + 104 + 295 = 617　950 − 356 − 388 = 206

$$\begin{array}{r} 218 \\ +104 \\ \hline 322 \end{array}$$　$$\begin{array}{r} 322 \\ +295 \\ \hline 617 \end{array}$$　$$\begin{array}{r} 950 \\ -356 \\ \hline 594 \end{array}$$　$$\begin{array}{r} 594 \\ -388 \\ \hline 206 \end{array}$$

875 − 262 + 243 = 856

$$\begin{array}{r} 875 \\ -262 \\ \hline 613 \end{array}$$　$$\begin{array}{r} 613 \\ +243 \\ \hline 856 \end{array}$$

6. (1) 396　847　0　100　749　220　316　561
(2) $$\begin{array}{r} 226 \\ +626 \\ \hline 852 \end{array}$$　$$\begin{array}{r} 924 \\ -457 \\ \hline 467 \end{array}$$　$$\begin{array}{r} 487 \\ -189 \\ \hline 298 \end{array}$$　$$\begin{array}{r} 430 \\ +345 \\ \hline 775 \end{array}$$
7. (1) 500　300　500　300　800
(2) 800　800　800　800　1600
8. 10　10　3　94　20　2　100　1

专项能力提升卷 9

1. 6　42　9　9　5　45　6　8　4　24　7　9
2. 3　2　5　2　6　4　4　3　6　1　5　2
3. 4　6　8　8　7　7
4. 63 ÷ 9 = 7　28 ÷ 9 = 3……1　38 ÷ 6 = 6……2　54 ÷ 8 = 6……6

$$\begin{array}{r} 7 \\ 9\overline{)63} \\ 63 \\ \hline 0 \end{array}$$　$$\begin{array}{r} 3 \\ 9\overline{)28} \\ 27 \\ \hline 1 \end{array}$$　$$\begin{array}{r} 6 \\ 6\overline{)38} \\ 36 \\ \hline 2 \end{array}$$　$$\begin{array}{r} 6 \\ 8\overline{)54} \\ 48 \\ \hline 6 \end{array}$$

41 ÷ 6 = 6……5　35 ÷ 8 = 4……3　47 ÷ 9 = 5……2　56 ÷ 7 = 8

$$\begin{array}{r} 6 \\ 6\overline{)41} \\ 36 \\ \hline 5 \end{array}$$　$$\begin{array}{r} 4 \\ 8\overline{)35} \\ 32 \\ \hline 3 \end{array}$$　$$\begin{array}{r} 5 \\ 9\overline{)47} \\ 45 \\ \hline 2 \end{array}$$　$$\begin{array}{r} 8 \\ 7\overline{)56} \\ 56 \\ \hline 0 \end{array}$$

5. 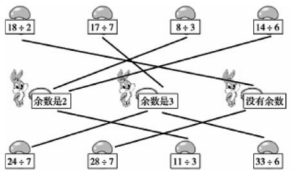

6. 竖着填：7　2　5　1　32　6
7. $$\begin{array}{r} 9 \\ 6\overline{)54} \\ 54 \\ \hline 0 \end{array}$$　$$\begin{array}{r} 8 \\ 8\overline{)66} \\ 64 \\ \hline 2 \end{array}$$　$$\begin{array}{r} 5 \\ 9\overline{)47} \\ 45 \\ \hline 2 \end{array}$$　$$\begin{array}{r} 6 \\ 6\overline{)41} \\ 36 \\ \hline 5 \end{array}$$
8. × 改正：$$\begin{array}{r} 9 \\ 4\overline{)36} \\ 36 \\ \hline 0 \end{array}$$　× 改正：$$\begin{array}{r} 8 \\ 3\overline{)25} \\ 24 \\ \hline 1 \end{array}$$　× 改正：$$\begin{array}{r} 6 \\ 5\overline{)34} \\ 30 \\ \hline 4 \end{array}$$
9. 6　1　30　60　1　180　3　2　40　4　10

专项能力提升卷 10

1. (1) 2　3　3　(2) 2　3　1
2. (1) 3　7　(2) 2　10　2
3. 2　6　2　6　4. ③　5. ③　6. ②　7. ②　8. 略
9. (1) 4　(2) 4　2　(3) 2

专项能力提升卷 11

1. (1) 200 + 400 = 600（元）
答：买一台电风扇和一辆自行车大约需要 600 元。
(2) 400 − 200 = 200（元）
答：一辆自行车比一台电风扇大约贵 200 元钱。
2. 石门店　长石店　高阳店
3. 108 + 155 = 263（辆）
答：两个公司一共购买了 263 辆出租车。
4. 937 − 258 = 679（元）　答：洗衣机 679 元。
5. 113 + 25 = 138（cm）　138 − 8 = 130（cm）
答：小琴高 130 cm。
6. 400 − 80 = 320（朵）　400 + 320 = 720（朵）
答：一共采了 720 朵。
7. 168 + 227 = 395（个）　395 + 105 = 500（个）
答：李师傅一共要加工 500 个零件。
8. 985 − 150 = 835（元）　835 − 258 = 577（元）或
150 + 258 = 408（元）　985 − 408 = 577（元）
答：现在买这部手机需要 577 元钱。
9. 578 + 296 = 874（人）　874 − 385 = 489（人）
答：现在车上还有 489 人。
10. 623 + 375 = 998（千克）　998 − 492 = 506（千克）
答：吃了 506 千克大米。
[点拨] 原有大米的千克数加上又运来大米的千克数减去还剩下大米的千克数，就是吃了的大米的千克数。

专项能力提升卷 12

1. (1) 24 ÷ 3 = 8（瓶）　答：可以买 8 瓶冰红茶。
(2) 6 × 3 = 18（元）　24 − 18 = 6（元）
答：还剩 6 元钱。
(3) 可以买几瓶纯果汁，还剩多少钱？
24 ÷ 9 = 2（瓶）……6（元）
答：可以买 2 瓶纯果汁，还剩 6 元钱。
[点拨] 本题答案不唯一。
2. 26 ÷ 5 = 5（吨）……1（吨）
答：平均每辆汽车运 5 吨，还剩 1 吨。
3. 28 ÷ 5 = 5（条）……3（人）　5 + 1 = 6（条）
答：至少要租 6 条船才够。
[点拨] 剩下的 3 人也要租一条船哟！
4. 10 ÷ 3 = 3（个）……1（元）　答：最多能买 3 个。
5. 51 ÷ 9 = 5（次）……6（吨）　5 + 1 = 6（次）
答：如果都用大卡车运，至少要运 6 次。
51 ÷ 6 = 8（次）……3（吨）　8 + 1 = 9（次）
答：如果都用小卡车运，至少要运 9 次。
6 × 4 = 24（吨）　51 − 24 = 27（吨）　27 ÷ 9 = 3（次）
答：用小卡车运 4 次，大卡车运 3 次正好运完。
[点拨] 第 3 问答案不唯一。
6. (1) 5　5　35　(2) 35
(3) 星期一这段时间，我是在家里，因为放学后，我已回到家。 [点拨] 答案不唯一。
7. 11：50 − 8：00 = 3 时 50 分　5：00 − 1：00 = 4 时
3 时 50 分 + 4 时 = 7 时 50 分
答：周一到周五每天开放 7 时 50 分。
12：00 − 9：00 = 3 时　5：30 − 1：30 = 4 时
3 时 + 4 时 = 7 时
答：周六、周日每天开放 7 时。

关注微信公众号“教辅资料站”获取更多学习资料