《好卷》=《大卷》+《小卷》：不是所有的试卷都叫“好卷”，期末提分才是硬道理

小卷

同步测评用

周测培优卷

有余数的除法的认识及笔算、周期问题 …… 01
万以内数的认识、读写 …… 03
万以内数的大小比较、整百、整千数的加减法、估计 …… 05
毫米、分米、千米的认识、换算和应用 …… 07
万以内的加减法(一)——口算、不进位、不退位的笔算、估算 …… 09
万以内的加减法(一)——不连续进位、退位的笔算、验算 …… 11
辨认从不同角度观察到的物体的形状 …… 13
万以内的加减法(二)——连续进位、退位的笔算 …… 15
万以内的加减法(二)——混合运算、实际应用、算式推理 …… 17
多边形的认识与图形的拼组 …… 19
用乘加、乘减、除加、除减分步解决问题 …… 21
分类统计和数据的收集、整理、分析 …… 23

大卷

单元检测卷

第一单元 跟踪检测卷 …… 1
第二单元 跟踪检测卷 …… 5
第三单元 跟踪检测卷 …… 9
第四、五单元 跟踪检测卷 …… 13
期中 跟踪检测卷 …… 17
第六单元 跟踪检测卷 …… 21
第七、八单元 跟踪检测卷 …… 25
第九单元 跟踪检测卷 …… 29

大卷答案 见大卷53~60页　小卷答案 见小卷47~54页

小卷

期末冲刺用

专项提升卷 题型突破卷

有余数的除法 …… 25
万以内的加减法 …… 27
长度单位的认识与应用及多边形的认识与拼组 …… 29
用计算解决实际问题 …… 31
周期问题、观察物体、算式推理、分类统计 …… 33
填空题 …… 35
选择题 …… 37
计算题(一) …… 39
计算题(二) …… 41
图形题 …… 43
应用题 …… 45

大卷

模块过关卷 仿真模拟卷

数与代数　统计 …… 33
图形与几何 …… 37
仿真模拟卷(一) …… 41
仿真模拟卷(二) …… 45
仿真模拟卷(三) …… 49



荣德基好卷
微信公众号
教辅资料站
关注微信公众号“教辅资料站”获取更多学习资料

姓名 学号 班级 学校

密 封 线

豆点提示：
请不要在密封线内答题哦！

第一单元 跟踪检测卷

有余数的除法

时间：60 分钟　满分：100 分 +10 分

题号	一	二	三	四	五	六	附加题	总分
得分								

一、口算。（每小题 0.5 分，共 8 分）

24 ÷ 7 =	36 ÷ 5 =	8 × 6 =	29 ÷ 4 =
11 ÷ 3 =	46 ÷ 5 =	72 ÷ 8 =	7 × 5 =
9 ÷ 9 =	23 ÷ 4 =	67 ÷ 9 =	25 ÷ 8 =
54 ÷ 6 =	13 ÷ 4 =	26 ÷ 3 =	9 ÷ 4 =

二、填空。（每空 1 分，共 21 分）

1. 55 除以 6，商是（　　），余数是（　　）。
2. 从 17 里连续减去 5，最多能减（　　）次，还余（　　）。
3. 7 × 8 加上（　　）得 62，64 除以 9，余数为（　　）。
4. 19 根小棒最多可以摆（　　）个独立的小正方形，还剩（　　）根。
5. □ ÷ □ = 8……3，除数最小是（　　），这时被除数是（　　）。
6. △△○○○△△○○○△△○○○……

   照这样摆下去，第 35 个是（　　），第 42 个是（　　）。
7. （　　）里最大能填几？

   8 ×（　　）< 65　　55 >（　　）× 6
8. 34 米长的绳子，每 5 米剪一段，可以剪成这样的（　　）段，还剩（　　）米。
9. 一支铅笔 6 角钱，5 元最多能买（　　）支铅笔。
10. 有 42 块巧克力，至少拿出（　　）块，才能正好分给 5 个小朋友，每个小朋友可分得（　　）块。
11. 明明采了 28 朵花，每 6 朵插在一个花瓶里，至少要准备（　　）个这样的花瓶。
12. 60 ÷（　　）= 8……4

三、判断。（对的打“√”，错的打“×”）（每题 2 分，共 10 分）

1. 20 ÷ 7 = 2……6，读作：20 除以 7 等于 2 余 6。（　　）
2. （　　）

```
    8
7 ) 6 4
    5 6
    ---
      8
```

3. 30 里面最多有 8 个 4。（　　）
4. 有余数的除法里，余数可能比除数大。（　　）
5. 驾驶证考试中每 5 人一组进入待考区，飞飞的妈妈抽到的号码是 36 号，她是在第 8 组进入待考区。（　　）

四、用竖式计算。（每小题 3 分，共 12 分）

46 ÷ 9 =　　25 ÷ 3 =　　65 ÷ 7 =　　38 ÷ 4 =

五、操作题。（共 22 分）

1. 填一填。（每题 6 分，共 12 分）

（1）10 个◆，3 个 3 个地分。

◆◆◆◆◆◆◆◆◆◆

分了（　　）组，剩下（　　）个。

10 ÷ □ = □（组）……□（个）

（2）11 个，平均分给 2 只小猴。







每只小猴分得（　　）个，还剩（　　）个。

11 ÷ □ = □（个）……□（个）

荣德基 荣誉出品 微信公众号 教辅资料站
关注微信公众号“教辅资料站”获取更多学习资料

2. 我会填表。（每空 1 分，共 10 分）

有 10 块，按下表所示分一分，填一填。

每人分得的块数	分给几人	还剩几块
2 块	（　　）人	（　　）块
3 块	（　　）人	（　　）块
4 块	（　　）人	（　　）块
5 块	（　　）人	（　　）块
6 块	（　　）人	（　　）块

六、解决问题。（1 题 9 分，2 题 6 分，3 题 12 分，共 27 分）

1.



（1）小丽买可以买多少本？还剩多少元？

（2）小丽想多买一本，还差多少元？

（3）小丽买最多买多少瓶？

2.



按照这样的规律共摆了 29 朵，最后一朵花是什么颜色？有多少朵？

3.

15 个同学去春游。



每辆车限坐 4 人，需要多少辆车？



一盘放 3 个，飞飞这一组共摘了 20 个。

做糖葫芦了！

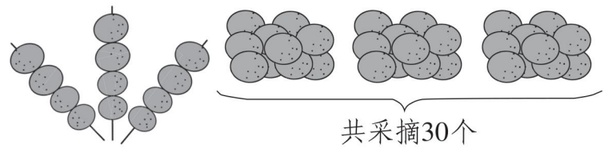

先解答问题，再想一想你还能提出什么问题，并解答出来。

附加题：（10 分）

÷8＝7……5

40 ÷ ＝4……4

62 ÷ ＝……6

÷＝1……6

荣德基 品质教辅 微信公众号 教辅资料站
关注微信公众号“教辅资料站”获取更多学习资料

自己说说　密　封　线　老师点评　家长点评

姓名 学号 班级 学校

密 封 线

豆点提示：
请不要在密封线内答题哦！

第二单元 跟踪检测卷

万以内数的认识

时间：60 分钟　满分：100 分 +10 分

题号	一	二	三	四	五	六	七	八	附加题	总分
得分										

一、我会算。（每小题 1 分，共 12 分）

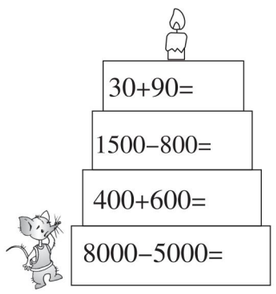

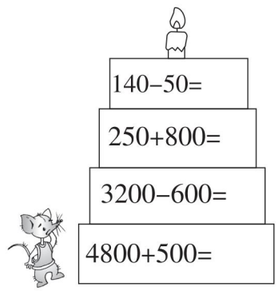

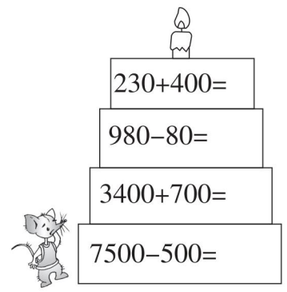

二、填空。（每空 1 分，共 33 分）

1. （1）

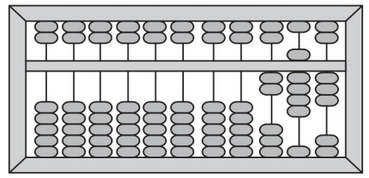

这个数写作：（　　），由（　　）个百，（　　）个十，（　　）个一组成。

（2）写一写，比一比。

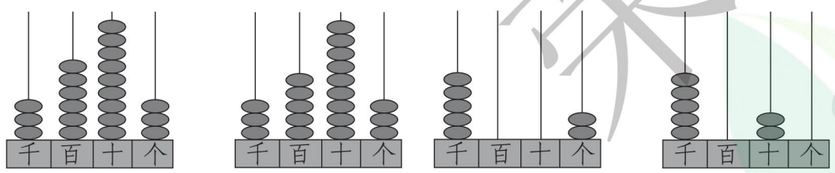

（　　）◯（　　）　（　　）◯（　　）

2. （　　）个十是一千，（　　）个一千是一万。

3. 写出与下面各数相邻的数。

（　　），3000，（　　）　　（　　），9989，（　　）

4. 由 5 个千，6 个十和 9 个一组成的数是（　　），读作（　　）。

5. 在 6060 中，从右边起第二个“6”表示（　　）。

6. 4200 里面有（　　）个百，260 里面有（　　）个十。

7. 最大的四位数是（　　），最小的五位数是（　　），它们相差（　　）。

8. 由 5、0、7、9 组成的四位数中（无重复数字），最大的是（　　），最小的是（　　）。

9. □13 > 698，□里可以填（　　）。

10. 按规律写数。

（1）4050，4100，4150，（　　），（　　），（　　）。

（2）2304，2404，2504，（　　），（　　），（　　）。

三、小鸟回家。（连一连）（9 分）







四、判断。（对的打“√”，错的打“×”）（每题 1 分，共 4 分）

1. 四位数不一定比三位数大。（　　）

2. 6500、3650、6705 三个数中的 0 都不读。（　　）

3. 3018 接近 3000，所以 3000 是 3018 的近似数。（　　）

4. 632 中，百位上的“6”表示的数比个位上的“2”表示的数大 4。（　　）

五、选择。（把正确答案的序号填在括号里）（每题 1 分，共 5 分）

1. 读数时，中间有两个零（　　）。

①都要读出来　　②都不读出来　　③只读一个零

2. 下面各数中，只读一个零的数是（　　）。

①7005　　②2100　　③7150

荣德基 微信公众 教辅资料站
关注微信公众号“教辅资料站”获取更多学习资料

3. 飞飞拍了 116 下球，月月拍的比飞飞多一些，月月可能拍了(　　)下。

①108　　②511　　③129

4. 读数和写数要从（　　）位起。

①高　　②百　　③低

5. 同学们用了 198 个气球布置会场，约是（　　）个。

①100　　②200　　③190

六、按照从大到小的顺序给小兔排队。(6 分)



(　　) > (　　) > (　　) > (　　) > (　　) > (　　)

七、连一连。(3 分)



朵数由 18 个十组成　　比少一些　　比多得多

这些花各有多少朵?



360 朵　　180 朵　　160 朵　　100 朵

八、我会解答。(3 题 12 分，其余每题 8 分，共 28 分)

1.



2. 女子一万米决赛。小红还剩多少米就跑到终点了?



3. 二年级 3 个班参加“保护环境，收集塑料瓶”活动，收集塑料瓶个数见下表：

班级	收集塑料瓶的个数（个）
二（1）班	1200
二（2）班	800
二（3）班	1500

(1) 二（2）班和二（3）班共收集了多少个塑料瓶?

(2) 二（3）班比二（1）班多收集了多少个塑料瓶?

(3) 二（1）班给二（2）班多少个塑料瓶，两个班就会一样多?

附加题：(10 分)

阳光礼堂有 2000 个座位，志成、志远、志高三所小学各有七百多名学生。如果这三所小学的学生同时来参加活动，能坐下吗?

荣德基 品质教辅 微信公众号 教辅资料站

关注微信公众号“教辅资料站”获取更多学习资料

自己说说

老师点评

家长点评

密 封 线

姓名 学号 班级 学校

密 封 线

豆点提示：
请不要在密封线内答题哦！

第三单元 跟踪检测卷

毫米、分米、千米的认识

时间：60 分钟　满分：100 分 +10 分

题号	一	二	三	四	五	六	七	附加题	总分
得分									

一、下面物体的长度各是多少？（4 分）

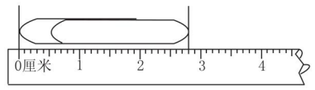

曲别针长（　　）毫米

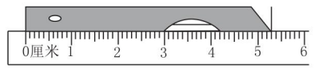

小刀长（　　）毫米



松果高（　　）厘米

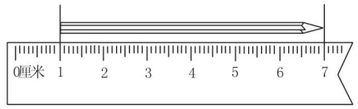

铅笔长（　　）厘米

二、填空。（每空 1 分，共 18 分）

1. 一枚 1 分硬币、一张银行卡、一张电话卡的厚度大约都是 1（　　）；粉笔盒的高度大约是 8（　　）。
2. 一把直尺长 2 分米，用这把直尺量一条长 1 米的绳子，至少要量（　　）次。
3. 长江是我国的第一大河，也是世界第三大河，长约 6400（　　）。
4. 一粒大米大约长 4（　　）。
5. 墨水瓶高 7 厘米，也就是（　　）毫米。
6. 10 个小朋友手拉手排成一队的长度大约是 10 米，照这样计算，（　　）个小朋友手拉手排成一队的长度大约是1 千米。
7. 学校操场一圈长 400 米，乐乐绕操场跑了 2 圈，还差（　　）米正好是 1 千米。
8. 宽约6厘米　长约2分米







我的步长约为40厘米



每秒大约飞行8千米

（　　）毫米　（　　）厘米　（　　）分米　（　　）米

9. 坐公交车时，身高超过 120（　　）就需要买票。
10. 表示从泰安到北京的距离用（　　）作单位比较合适。
11. 一支铅笔长 2 分米，用去 5 厘米，还剩（　　）厘米，合（　　）毫米。
12. 教室的门高 2 米，张老师身高 180 厘米，张老师比门矮（　　）分米，门比张老师高（　　）厘米。

三、判断。（对的打“√”，错的打“×”）（每题 2 分，共 10 分）

1. 一支圆珠笔长 15 毫米。（　　）
2. 妈妈买了 2 厘米花布给红红做衣服。（　　）
3. 千米、米、分米、厘米、毫米都是长度单位。（　　）
4. 叔叔迈一步大约 50 厘米。（　　）
5. 一张床长 2 分米。（　　）

四、按要求做题。（共 21 分）

1. 在◯里填上“＞”“＜”或“＝”。（6 分）

3 米◯28 分米　　80 毫米◯8 分米　　2 米－10 分米◯1 米

5 千米◯4999 米　　40 厘米◯40 毫米　　9 千米－6 千米◯3200 米

2. 算一算，填一填。（11 分）

1米－6分米＝（　　）分米　　1千米－400米＝（　　）米

65厘米＋35厘米＝（　　）分米＝（　　）米

87毫米－37毫米＝（　　）毫米＝（　　）厘米

700米＋1300米＝（　　）米＝（　　）千米

120厘米＋380厘米＝（　　）厘米＝（　　）分米＝（　　）米

3. 按从大到小的顺序排列：（4 分）

3 千米 500 厘米　　3500 厘米　　3 千米 5 分米　　3 米 50 厘米

（　　）＞（　　）＞（　　）＞（　　）

五、圈出合适的答案。（每题 1 分，共 3 分）

1. 学习时要注意：眼睛与书本的距离保持在（30 厘米　30 分米　30 米）左右。
2. 10 张纸重叠约厚（1 分米　1 厘米　1 毫米）。
3. 一枚 1 元硬币的厚度约是（2 分米　2 毫米　2 厘米）。

荣德基 微信公众号 教辅资料站
关注微信公众号“教辅资料站”获取更多学习资料

六、操作题。（共 8 分）

1. 画一画。（4 分）

（1）画一条长 43 毫米的线段。

（2）画一条比 7 厘米少 6 毫米的线段。

2. 量一量。（4 分）

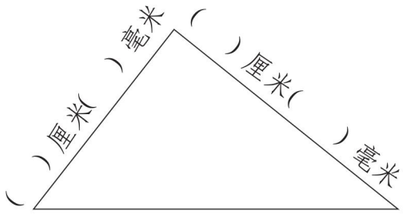

（ ）毫米

（ ）厘米

七、解决问题。（1、3 题每题 8 分，其余每题 10 分，共 36 分）

1. 三年级的小凯去年种了一棵 70 厘米高的小树，现在已经长到1 米 2 分米高了，这棵小树长高了多少？

2. 在学校举办的跳远比赛中，小军跳了 16 分米，小丽跳了 140 厘米，小明跳了 2 米。

（1）把他们的跳远成绩按从大到小的顺序排一排。

（2）小丽比小军少跳了多少分米？

3. 你知道这根跳绳大约有多少米长吗？

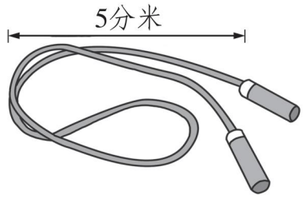

4. 看图，回答问题。

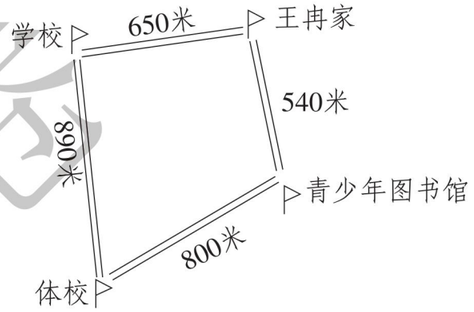

（1）星期日上午，王冉从家到青少年图书馆借了两本书后到体校学武术。他从家到体校走了多少米？

（2）下午，王冉从体校出来，请你为他设计一条路线，应该怎样走，才能早到家？

附加题：（10 分）

国庆节在学校门口挂彩灯，两端都挂，一共挂了 10 盏，每两盏彩灯之间都相距 2 米，学校门宽多少米？

荣德基 品质教辅 微信公众号 教辅资料站

关注微信公众号“教辅资料站”获取更多学习资料

自己说说

老师点评

家长点评

密 封 线

姓名 学号 班级 学校

密 封 线

豆点提示：
请不要在密封线内答题哦！

第四、五单元 跟踪检测卷

万以内的加减法（一） 观察物体

时间：60 分钟　满分：100 分 +10 分

题号	一	二	三	四	五	六	附加题	总分
得分								

一、填空。（每空 1 分，共 13 分）

1. 3 个百加 5 个百是（　　），7 个千减 4 个千是（　　）。
2. 小红家摘了 262 千克苹果，卖出了 145 千克，还剩（　　）千克，卖出的比剩下的多（　　）千克。
3. 希望小学一年级有 192 人，二年级有 206 人，两个年级大约共有（　　）人。
4. 在（　　）里填上合适的数。

（　　）+136 = 270　　（　　）−342 = 283

571 −（　　）= 318　　200 +（　　）= 860

5. 老鼠妈妈买了一瓶重 550 克的黄油，被小老鼠偷吃一些后，还剩 280 克。小老鼠偷吃了（　　）克黄油。
6. 写出分别是从哪一面看到的图形。



（　　）　（　　）　（　　）

二、判断。（对的打“√”，错的打“×”）（每题 2 分，共 10 分）

1. 笔算加法要相同数位对齐，哪一位上的数相加满十，就向前一位进一。（　　）
2. 在减法中，差一定比被减数和减数都小。（　　）
3. 一个三位数减一个两位数，差有可能是两位数，也有可能是三位数，但不可能是一位数。（　　）
4. 估算的结果一定比计算结果小。（　　）
5. 从不同的位置观察同一物体，看到的形状一定不相同。（　　）

三、选择。（把正确答案的序号填在括号里）（每题 2 分，共 10 分）

1. 下列算式中，得数比 500 大的是（　　）。

①392 + 232　　②720 − 540　　③178 + 308

2. 估算 899 − 608 的结果是（　　）。

①200　　②300　　③400

3. 在加法算式中，和与两个加数中的任何一个相比都（　　）。

①大　　②小　　③大或相等

4.




看到的是（　　）。



①　　②　　③

5.
$$\begin{array}{r} 7\ 0\ 8 \\ -\ 1\ \square\ 9 \\ \hline 5\ 2\ 9 \end{array}$$
□中填（　　）。

①6　　②8　　③7

四、计算。（共 17 分）

1. 直接写得数。（每小题 0.5 分，共 8 分）

750 − 350 =	420 + 300 =	300 + 600 =	4000 + 2000 =
140 − 60 =	130 − 90 =	12 + 36 =	900 + 800 =
49 − 19 =	1000 − 500 =	5000 + 3000 =	73 + 16 =
791 − 204 ≈	192 + 404 ≈	196 + 203 ≈	692 − 195 ≈

荣德基 微信公众号 教辅资料站
关注微信公众号“教辅资料站”获取更多学习资料

2. 用竖式计算，带☆的要验算。（每小题3分，共9分）

☆728 − 175 =　　☆337 + 429 =　　873 − 267 =

五、按要求做题。（共20分）

1. 我会连。（6分）



2. 把下列算式按得数从大到小的顺序排一排。（8分）

350+170　　830−280　　728−287　　593+364

（　　）>（　　）>（　　）>（　　）

3. 填表格。（6分）

			
原有	634千克		689千克
卖出	182千克	167千克	
还剩		519千克	392千克

六、解决问题。（1题12分，2题18分，共30分）

1. 飞飞为地震灾区捐款498元，月月捐款302元，他们一共捐款大约多少元？

2. 下面是天天向上文具店2月份卖出的文具情况。

			
436支	283支	149支	187支

（1）和一共卖出多少支？

（2）再卖出多少支就和一样多？

（3）比多卖多少支？

附加题：（10分）

飞飞家、月月家和学校在同一条路上，飞飞家到学校有576米，月月家到学校有419米，飞飞家到月月家有多少米？

荣德基 品质教辅 微信公众号 教辅资料站
关注微信公众号“教辅资料站”获取更多学习资料
自己说说　老师点评　家长点评　密　封　线

姓名 学号 班级 学校

密 封 线

豆点提示：请不要在密封线内答题哦！

期中 跟踪检测卷

时间：60 分钟　满分：100 分 +10 分

题号	一	二	三	四	五	六	附加题	总分
得分								

一、看谁算得又对又快。（每小题 0.5 分，共 10 分）

420 + 70 =	650 + 80 =	380 + 20 =	280 − 150 =
460 − 30 =	460 − 80 =	53 ÷ 7 =	90 + 40 =
720 − 80 =	3000 + 5000 =	30 + 170 =	900 − 260 =
70 + 300 =	510 + 70 =	800 − 90 =	70 ÷ 9 =
600 + 130 =	570 − 50 =	8000 − 6000 =	4000 + 700 =

二、我会填。（每空 1 分，共 35 分）

1.

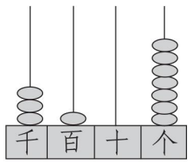

（　　）个千、（　　）个百和（　　）个一组成（　　）。

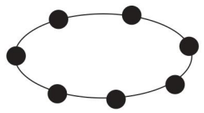

32 颗珠子最多可以穿成（　　）串，还剩（　　）颗。

2.



□ ÷ □ = □（堆）……□（个）

3. 7 个百和 8 个十合起来是(　　)；由8个千和6个十组成的数是(　　)。

4. 一个数的最高位是万位，它是（　　）位数。

5. 下面的 5 各表示多少？

570 中的 5 表示（　　）。　　805 中的 5 表示（　　）。

5346 中的 5 表示（　　）。　　9053 中的 5 表示（　　）。

6.

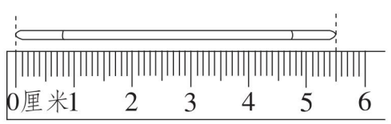

（　　）毫米

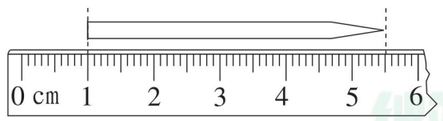

（　　）毫米

7. 比 525 米长 90 米的是（　　）米，比 900 少 460 的数是（　　）。

8. 友谊商场 6 月份卖出 415 台冰箱，7 月份卖出 491 台冰箱，这两个月共卖出(　　)台冰箱，7 月份比 6 月份多卖出（　　）台。

9. 比一比，在◯里填上“ > ”“ < ”或“ = ”。

999 ◯ 1000　　6543 ◯ 6534　　4 千米◯ 500 毫米

800 米◯ 8 千米　　9 厘米◯ 1 分米　　500 厘米◯ 50 分米

10. 1 分米 − 4 厘米 =（　　）厘米

58 厘米 − 38 厘米 =（　　）厘米 =（　　）分米

11. 在一道除法算式中，除数和商都是 7，余数最大是（　　），这时被除数是（　　）。

12. 按照规律在（　　）里画出第 34 个图形。

☆☆☆◇◇○☆☆☆◇◇○☆☆☆◇◇○☆☆……（　　）……

三、写数、读数、排序我能行。（2 题 3 分，其余每题 2 分，共 7 分）

1. 分别写出下面横线上的数。

某水库自然风景区内约有一千七百零八公顷森林，约有三千六百五十九公顷滩地。写作：（　　）（　　）

2. 分别读出下面横线上的数。

某山主峰高度为3556 米，巍峨壮丽，其保护区内有高约2590 米的高山，山上生长着成片的油松林，云杉混交林，而在2400 米的高山阳坡上，生长着浅绿色的山杨。读作：（　　）（　　）（　　）。

3. 把上面的 5 个数按从大到小的顺序排列。

四、按要求做一做。（1、2 题每题 3 分，3 题 4 分，共 10 分）

1. 下面三张照片哪张是从小熊的后面拍的？在正确答案的下面画“◯”；哪张是从小熊的侧面拍的？在正确答案的下面画“ × ”。



（　　）　　（　　）　　（　　）

荣德基 微信公众号 教辅资料站
关注微信公众号“教辅资料站”获取更多学习资料

2. 下面右边的图分别是谁看到的？连一连。



3. 量一量。

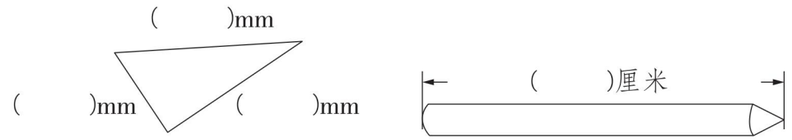

五、我会算。（共 15 分）

1. 估算。（每小题 0.5 分，共 3 分）

293 + 304 ≈　　506 + 292 ≈　　704 − 595 ≈

902 − 704 ≈　　101 + 897 ≈　　404 − 98 ≈

2. 用竖式计算，带★的要验算。（每小题 2 分，共 12 分）

70 ÷ 8 =　　43 ÷ 5 =　　★674 + 235 =

542 − 218 =　　490 + 215 =　　★948 − 657 =

六、解决问题。（1 题 6 分，2 题 9 分，3 题 8 分，共 23 分）

1.（1）2 米布做一条床单，19 米布最多可以做多少条床单？

（2）二（1）班有 38 人租面包车去春游，每辆面包车限乘 8 人，至少需要租几辆面包车？

2. 购物。



495 元　　195 元　　308 元

（1）妈妈买一个和一辆，她大约要付多少元？

（2）一个电饭煲比一辆自行车贵多少元？

（3）李阿姨要买一个旅行包和一个电饭煲，带 800 元够吗？

3. 小朋友按照下面的规律穿珠子，48 颗珠子里面有多少颗白珠子？有多少颗黑珠子？

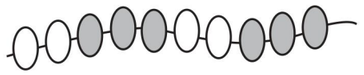

附加题：（10 分）

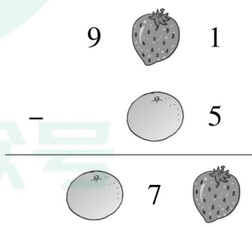

 = (　　)　　 = (　　)

荣德基 品质教辅 微信公众号 教辅资料站
关注微信公众号“教辅资料站”获取更多学习资料

自己说说　老师点评　家长点评



参考答案及点拨（大卷）

第一单元跟踪检测卷

有余数的除法

一、3……3　7……1　48　7……1　3……2
9……1　9　35　1　5……3　7……4
3……1　9　3……1　8……2　2……1

二、1. 9　1　2. 3　2　3. 6　1　4. 4　3
5. 4　35　6. ○　△
7. 8　9　8. 6　4　9. 8　10. 2　8
11. 5　12. 7

三、1. √　2. ×　3. ×　4. ×
5. √［点拨］36 ÷ 5 = 7（组）……1（人），7 + 1 = 8（组），所以 36 号是在第 8 组进入待考区。

四、46 ÷ 9 = 5……1

$$\begin{array}{r} 5 \\ 9\overline{)46} \\ 45 \\ \hline 1 \end{array}$$

25 ÷ 3 = 8……1

$$\begin{array}{r} 8 \\ 3\overline{)25} \\ 24 \\ \hline 1 \end{array}$$

65 ÷ 7 = 9……2

$$\begin{array}{r} 9 \\ 7\overline{)65} \\ 63 \\ \hline 2 \end{array}$$

38 ÷ 4 = 9……2

$$\begin{array}{r} 9 \\ 4\overline{)38} \\ 36 \\ \hline 2 \end{array}$$

五、1.（1）3　1　10 ÷ 3 = 3（组）……1（个）
（2）5　1　11 ÷ 2 = 5（个）……1（个）
2. 5　0　3　1　2　2　2　0　1　4

六、1.（1）15 ÷ 6 = 2（本）……3（元）
答：可以买 2 本，还剩 3 元。
（2）6 − 3 = 3（元）
答：还差 3 元。
（3）15 ÷ 2 = 7（瓶）……1（元）
答：最多买 7 瓶。
2. 29 ÷ 3 = 9（组）……2（朵）
答：最后一朵花是红色。
9 × 2 = 18（朵）18 + 2 = 20（朵）
答：红花有 20 朵。
［点拨］2 红 1 黄共 3 朵花为 1 组，29 朵里面有 9 组，还剩 2 朵。红花就有 9 个 2 朵，再加上最后这 2 朵。
3. 15 ÷ 4 = 3（辆）……3（人）
3 + 1 = 4（辆）
答：需要 4 辆车。
橘子可以放几盘？还剩多少个？
20 ÷ 3 = 6（盘）……2（个）
答：橘子可以放 6 盘，还剩 2 个。
［点拨］根据后两幅图片提出用除法解答的问题，答案不唯一，合理即可。

附加题：61　9　7　8　13　7（最后四个空答案不唯一）

第二单元跟踪检测卷

万以内数的认识

一、120　700　1000　3000　90　1050　2600　5300　630　900　4100　7000

二、1.（1）293　2　9　3
（2）3693 > 3593　5002 < 5020
2. 100　10
3. 2999　3001　9988　9990
4. 5069　五千零六十九
5. 6 个千
6. 42　26
7. 9999　10000　1
8. 9750　5079
9. 7，8，9
10.（1）4200　4250　4300
（2）2604　2704　2804

三、

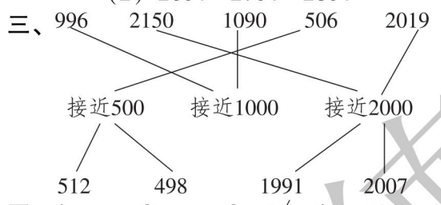

四、1. ×　2. ×　3. √　4. ×

五、1. ③　2. ①　3. ③　4. ①　5. ②

六、3369　3015　2986　1356　998　149
［点拨］先比较位数，位数多的排在前面。再将位数相同的从最高位开始比较。

七、

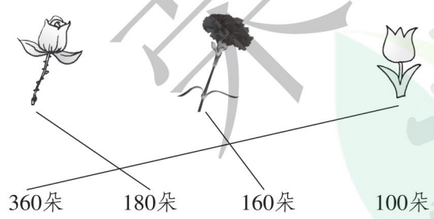

［点拨］18 个十就是 180，故的朵数是 180 朵。比 180 少一些的数是 160，所以的朵数是 160 朵。360 比 180 多得多，故的朵数是 360 朵。

八、1. 1300 + 900 = 2200（棵）
答：苹果树和杨树一共有 2200 棵。
1300 − 900 = 400（棵）
答：苹果树比杨树多 400 棵。
2. 10000 − 8000 = 2000（米）
答：小红还剩 2000 米就跑到终点了。
3.（1）800 + 1500 = 2300（个）
答：二（2）班和二（3）班共收集了 2300 个塑料瓶。
（2）1500 − 1200 = 300（个）
答：二（3）班比二（1）班多收集了 300 个塑料瓶。
（3）1200 − 800 = 400（个）
400 的一半是 200
答：二（1）班给二（2）班 200 个塑料瓶，两个班就会一样多。

附加题：700 + 700 + 700 = 2100（名），2000 < 2100
答：不能坐下。

第三单元跟踪检测卷

毫米、分米、千米的认识

一、28　53　4　6

二、1. 毫米　厘米　2. 5　3. 千米　4. 毫米
5. 70　6. 1000　7. 200
8. 60　20　4　8000　9. 厘米　10. 千米
11. 15　150　12. 2　20

三、1. ×　2. ×　3. √　4. √　5. ×

四、1. >　<　=　>　>　<
2. 4　600　10　1　50　5　2000　2　500　50　5
3. 3 千米 500 厘米　3 千米 5 分米　3500 厘米　3 米 50 厘米

五、1. 30 厘米　2. 1 毫米
3. 2 毫米

六、1.（1）
（2）
［点拨］7 厘米 = 70 毫米，70 − 6 = 64（毫米），画 64 毫米长的线段。
2. 3　8　4　7　6　5　8

七、1. 1 米 2 分米 = 120 厘米
120 − 70 = 50（厘米）
答：这棵小树长高了 50 厘米。
2.（1）2 米 > 16 分米 > 140 厘米
（2）140 厘米 = 14 分米
16 − 14 = 2（分米）
答：小丽比小军少跳了 2 分米。
3. 5 × 4 = 20（分米）20 分米 = 2 米
答：这根跳绳大约有 2 米长。
4.（1）540 + 800 = 1340（米）
答：他从家到体校走了 1340 米。
（2）890 + 650 = 1540（米）1340 < 1540
答：应该原路返回，才能早到家。

附加题：（10 − 1）× 2 = 18（米）
答：学校门宽 18 米。

第四、五单元跟踪检测卷

万以内的加减法（一）　观察物体

一、1. 800　3000　2. 117　28　3. 400
4. 134　625　253　660　5. 270
6. 前面　后面　侧面

二、1. √　2. ×　3. ×　4. ×　5. ×

三、1. ①　2. ②　3. ③　4. ②　5. ③

四、1. 400　720　900　6000　80　40　48　1700　30　500　8000　89　600　600　400　500

2. 728 − 175 = 553

$$\begin{array}{r} 728 \\ -\ 175 \\ \hline 553 \end{array}$$

验算：

$$\begin{array}{r} 553 \\ +\ 175 \\ \hline 728 \end{array}$$

337 + 429 = 766

$$\begin{array}{r} 337 \\ +\ 429 \\ \hline 766 \end{array}$$

验算：

$$\begin{array}{r} 766 \\ -\ 429 \\ \hline 337 \end{array}$$

873 − 267 = 606

$$\begin{array}{r} 873 \\ -\ 267 \\ \hline 606 \end{array}$$

五、1.



2. 593 + 364　830 − 280　350 + 170　728 − 287
3. 452 千克　686 千克　297 千克

六、1. 498 + 302 ≈ 800（元）
答：他们一共捐款大约 800 元。
2.（1）436 + 283 = 719（支）
答：一共卖出 719 支。

关注微信公众号“教辅资料站”获取更多学习资料

（2）187 − 149 = 38（支）

答： 再卖出 38 支就和 一样多。

（3）283 − 149 = 134（支）

答： 比 多卖 134 支。

附加题： 飞飞家、月月家在学校两侧：

576 + 419 = 995（米）

飞飞家、月月家在学校同侧：

576 − 419 = 157（米）

答： 飞飞家到月月家有 995 米或 157 米。

期中跟踪检测卷

一、490　730　400　130　430　380　7……4　130　640　8000　200　640　370　580　710　7……7　730　520　2000　4700

二、1. 3　1　7　3107　4　4

[点拨]32 ÷ 7 = 4（串）……4（颗）

2. 18 ÷ 4 = 4（堆）……2（个）

3. 780　8060　4. 五

5. 5 个百　5 个一　5 个千　5 个十

6. 55　45　7. 615　440　8. 906　76

9. <　>　>　<　<　=

10. 6　20　2

11. 6　55　[点拨]余数要比除数小，除数是 7，余数最大是 6，这时被除数是：7 × 7 + 6 = 55。

12. ◇　[点拨]每组图形有 6 个，34 ÷ 6 = 5（组）……4（个），即 34 个图形能分成 5 组余 4 个，所以第 34 个是◇。

三、1. 1708　3659

2. 三千五百五十六　二千五百九十　二千四百

3. 3659 > 3556 > 2590 > 2400 > 1708

四、1.（　）（ × ）（ ○ ）

2.

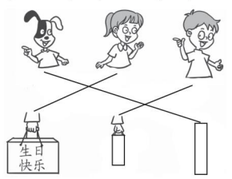

3. 31　16　27　6

五、1. 600　800　100　200　1000　300

2. 70 ÷ 8 = 8……6

```
   8
8 ) 7 0
    6 4
    ---
      6
```

43 ÷ 5 = 8……3

```
   8
5 ) 4 3
    4 0
    ---
      3
```

674 + 235 = 909

```
  6 7 4          9 0 9
+ 2 3 5   验算：  - 2 3 5
-------          -------
  9 0 9          6 7 4
```

542 − 218 = 324

```
  5 4 2          4 9 0
- 2 1 8          + 2 1 5
-------          -------
  3 2 4          7 0 5
```

490 + 215 = 705

948 − 657 = 291

```
  9 4 8          2 9 1
- 6 5 7   验算：  + 6 5 7
-------          -------
  2 9 1          9 4 8
```

六、1.（1）19 ÷ 2 = 9（条）……1（米）

答： 19 米布最多可以做 9 条床单。

（2）38 ÷ 8 = 4（辆）……6（人）

4 + 1 = 5（辆）

答： 至少需要租 5 辆面包车。

2.（1）195 + 308 ≈ 500（元）

答： 她大约要付 500 元。

（2）495 − 308 = 187（元）

答： 一个电饭煲比一辆自行车贵 187 元。

（3）495 + 195 ≈ 700（元）　700 元 < 800 元

答： 带 800 元够。

[点拨]买东西估算钱数够不够时，一般要往大的估算。

3. 48 ÷ 5 = 9（组）……3（颗）

白珠子：2 × 9 = 18（颗）18 + 2 = 20（颗）

黑珠子：3 × 9 = 27（颗）27 + 1 = 28（颗）

答： 里面有 20 颗白珠子，28 颗黑珠子。

[点拨]观察这串珠子可知，每 5 颗珠子为一组，其中白珠子 2 颗，黑珠子 3 颗。先求 48 颗珠子里面有这样的几组，然后再分别求出白珠子、黑珠子的颗数。

附加题： 6　8

第六单元跟踪检测卷

万以内的加减法（二）

一、1. 622　2. 650　3. 618　4. 78

5. 931　139　792

6. 582 − 296　276 + 145　900 − 341　902 − 329

7. 32 − 14　50

[点拨] 先求出女生有多少人，因为女生比男生少 14 人，所以用减法计算。再求一共有多少人，用加法计算。

8. 130 − 40 − 40 = 50（朵）

9. 759　191　679　385　618　282

二、1. 715　588　615　3

2.

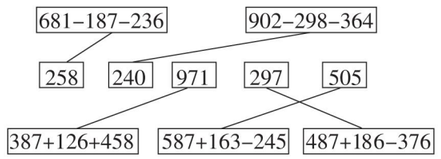

三、1. 383 + 268 = 651

```
  3 8 3          6 5 1
+ 2 6 8   验算：  - 2 6 8
-------          -------
  6 5 1          3 8 3
```

950 − 589 = 361

```
  9 5 0          3 6 1
- 5 8 9   验算：  + 5 8 9
-------          -------
  3 6 1          9 5 0
```

601 − 523 = 78

```
  6 0 1            7 8
- 5 2 3   验算：  + 5 2 3
-------          -------
    7 8          6 0 1
```

2. 393　113　565

四、268 + 117 = 385（千克）

600 − 125 = 475（棵）

260 + 20 = 280（棵）　260 + 280 = 540（棵）

582 − 153 = 429（袋）　582 + 429 = 1011（袋）

五、1. 718 − 689 = 29（元）

答： 降价 29 元。

2. 352 − 293 = 59（千克）

答： 这只羊重 59 千克。

3. 436 + 275 + 164 = 875（棵）

答： 一共要浇 875 棵树。

4. 326 + 78 − 109 = 295（只）

答： 乐乐家养了 295 只黑鸡。

5. 136 + 98 + 68 = 302（页）

答： 这本书一共有 302 页。

6. 568 + 152 − 367 = 353（千克）

答： 第二天运来 353 千克苹果。

附加题：

△ =（ 3 ）　▲ =（ 7 ）

☆ =（ 4 ）　□ =（ 4 ）

◇ =（ 2 ）

[点拨] 第 2 个竖式个位上 12 − 6 = 6，得到◇ = 2，十位上 10 + 0 退去 1 后变成 9，9 − 5 = 4，故□ = 4，百位上▲先退去 1 后变成 4 + 2 的和，因此▲ = 7。

第七、八单元跟踪检测卷

图形与拼组　解决问题

一、1. 长方　三角　正方

2. 长方　4　4　相等　长　宽

3. 正方　4　4　边长

4. 5　五边形　6　六边形

5. 4　6. 9　7. 43　8. 4

二、1. 9　3　24　6　2. 35　27　9　45

3. 72　9　18　50

三、1. ①　2. ②　3. ③

四、1. 小明一共有多少个乒乓球

4 × 6 = 24（个）

小明现在还有多少个乒乓球

24 − 8 = 16（个）

2. 表演小合唱的小松鼠有多少只

6 × 5 = 30（只）

一共有多少只小松鼠

30 + 23 = 53（只）

3. 一支圆珠笔多少元

12 ÷ 6 = 2（元）

一支圆珠笔比一支钢笔便宜多少元

10 − 2 = 8（元）

4. 一双袜子多少元

18 ÷ 3 = 6（元）

一件上衣比一双袜子贵多少元

30 − 6 = 24（元）

五、1. 1　8

2. 8　5　57　54

3. 38　24　25　39

六、1. 48 ÷ 6 = 8（元）　63 ÷ 9 = 7（元）

8 > 7　8 − 7 = 1（元）

答： 小娟买的钢笔便宜，一支便宜 1 元。

2. 73 − 28 = 45（元）　45 ÷ 5 = 9（元）

答： 每个皮球 9 元。

3.（1）6 × 5 = 30（元）

25 + 30 = 55（元）

答： 共花 55 元。

（2）50 − 25 = 25（元）

25 ÷ 5 = 5（张）

答： 剩下的钱还能买 5 张儿童票。

（3）买一张成人票和 4 张儿童票，共花多少元？

5 × 4 = 20（元）

25 + 20 = 45（元）

答： 共花 45 元。

[点拨] 所提问题不唯一。

4. 56 ÷ 8 = 7（条）　7 + 8 = 15（条）

答： 现在大班有 15 条这种毛巾。

附加题：（1）4 厘米

[点拨] 最大的正方形以长方形的宽为边长。

（2）4 厘米　3 厘米

[点拨] 剩下的长方形的长是 4 厘米，宽是 7 − 4 = 3（厘米）。

荣德基 品质铺 教辅资料站 关注微信公众号“教辅资料站”获取更多学习资料

第九单元跟踪检测卷

数据的收集与整理（一）

一、1. 26　3　7　7　6　3

2. 26　12　14

二、1.（1）①　（2）①　（3）6　（4）26

2.（1）1　（2）7　5　6

（3）红　蓝　15

三、1. 14　7　21　2. 21　3. 7

4. 14 ÷ 7 = 2

答：摸到白球的次数是摸到黑球的 2 倍。

四、1. 10　16　10　8

2.



3. 熊猫　狐狸

4. 小猫　小猴

5. 16 ÷ 8 = 2

答：最喜欢熊猫的人数是最喜欢狐狸的 2 倍。

6. 10 + 16 + 10 + 8 = 44（个）

答：一共调查了 44 个同学。

五、1. 17　41　22

2. 正正正正正正丅　正正正丅

正正正正正正正丅　正正正正丅

3. 竖笛　24

4. 31 + 17 + 41 + 22 = 111（人）

答：阳光小学二年级文艺社团一共有 111 人。

附加题：正正丅

[点拨] 根据题意最喜欢吃柠檬的人数是最喜欢吃橘子的 2 倍，可以求出最喜欢吃柠檬的有 6 × 2 = 12（人）。从全班人数中减去最喜欢吃葡萄、橘子、柠檬的就是最喜欢吃苹果的，即 45 − 14 − 6 − 12 = 13（人）。13 用“正”字表示为正正丅。

期末总复习

模块过关卷（一）　数与代数　统计

一、1. 五千二百零五　五千零二

5205　5002

2.（1）1000　（2）8000　（3）6000

3. 千　4　千　个　4　一

4. 554　316

5. 6300　3600　3060　603　360　306

6. 9510　1059　5910　9015

7. △

二、1. 950　577　150　5100　550　72　1800　1900　900　200　200　600

2. 58 ÷ 8 = 7……2　　23 ÷ 4 = 5……3

```
    7                5
8 ) 5 8          4 ) 2 3
  5 6              2 0
    2                3
```

800 − 276 = 524

```
  8 0 0        验算：  5 2 4
− 2 7 6              + 2 7 6
  5 2 4                8 0 0
```

358 + 542 = 900

```
    3 5 8        验算：  9 0 0
+   5 4 2              − 5 4 2
    9 0 0                3 5 8
```

634 − 267 + 278 = 645

```
  6 3 4
− 2 6 7
  3 6 7
+ 2 7 8
  6 4 5
```

74 + 436 − 298 = 212

```
    7 4
+ 4 3 6
  5 1 0
− 2 9 8
  2 1 2
```

三、1. 880 本 √　340 本 △

2. 100 粒 √　150 粒 △

[点拨] 第 2 杯大约是第 1 杯的 2 倍，故第 2 杯约是 100 粒。第 3 杯大约是第 1 杯的 3 倍，故第 3 杯约是 150 粒。注意要画出正确的符号。

3.

```
  4 8 9 7        8 9 2
+   5 3 7      − 2 6 9
  5 4 3 4        6 2 3
                + 9 8
                7 2 1
```

4.（1）45　9　12　13　11

（2）长颈鹿　13

四、420 + 56 = 476（朵）

28 − 5 = 23（辆）

五、1. 38 ÷ 4 = 9（辆）……2（人）

9 + 1 = 10（辆）

答：至少需要 10 辆车。

2. 27 − 3 = 24（盆）　24 ÷ 8 = 3（盆）

答：每个教室放 3 盆。

3. 4 × 9 = 36（个）　36 + 24 = 60（个）

答：一共有 60 个轮子。

4. 262 − 98 + 262 = 426（幅）

答：二年级和三年级一共画了 426 幅画。

附加题：男　10

[点拨] 原来男生比女生多 12 人，这学期转来的男生比女生少 6 − 4 = 2（人），所以现在还是男生多。多的人数是：12 + 4 − 6 = 10（人）。

期末总复习

模块过关卷（二）　图形与几何

一、1. 35　32

2. 500　40　10　7000　90　8

3. 4　4　对边　四条边

4. 5　2

5. 74　90　9　60　6

6. 千米　分米　毫米

7. 60 米　5000 米　5200 米　6 千米

二、1.

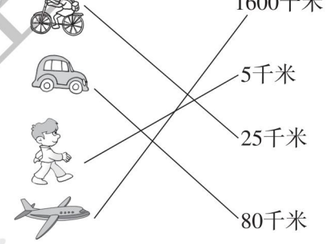

2.



3. 前面　上面　侧面

4. ☑　☐　☐　　☐　☑　☐

三、=　<　>　<　=　>

四、1.



[点拨] 分法不唯一。

2.

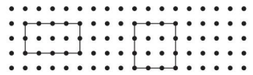

[点拨] 画法不唯一。

五、六　四　五　三角　四　五

六、3　3　13　2　3

七、1. 4 分米 = 40 厘米　145 + 40 = 185（厘米）

答：冰箱有 185 厘米高。

2. 200 − 15 − 15 = 170（厘米）

答：李叔叔有 170 厘米高。

3. 4 分米 = 40 厘米　4 + 1 = 5（段）

40 ÷ 5 = 8（厘米）

答：每段长 8 厘米。

4. **答：**空白长方形的长是 3 厘米，宽是 1 厘米。

[点拨] 长方形的长就是大正方形的边长，宽就是小正方形的边长。

附加题：（1）长方或三角　（2）2

（3）平行四边

期末总复习

仿真模拟卷（一）

一、1. 806　2. 1999　2001

3. 5023　5　3　2　5000

4. 4　4　5. 5300　3005

6. 5　6　7. 黑　8. 434

二、1. √　2. ×　3. √　4. ×　5. ×

三、1. ①　2. ①　3. ②　4. ②　5. ③

四、1. 59　4600　6……2　200　63　800　35　8000　200　600　300　400

2. 55 ÷ 6 = 9……1

```
    9
6 ) 5 5
  5 4
    1
```

296 + 315 = 611

```
  2 9 6        验算：  6 1 1
+ 3 1 5              − 2 9 6
  6 1 1                3 1 5
```

708 − 547 + 265 = 426

```
  7 0 8
− 5 4 7
  1 6 1
+ 2 6 5
  4 2 6
```


关注微信公众号“教辅资料站”获取更多学习资料

五、1.



2. 3　7　2　9

［点拨］个位上 $d+d=8$，d 可以是 4 或 9，再根据十位上 $c+c=5$ 可知，个位向十位进上来一个 1，故 d 只能是 9，这样 $c=2$。同理，百位上 $b+b=4$，b 可以是 2 或 7，再根据千位上 $a+a=7$ 可知，百位向千位进上来一个 1，故 b 只能是 7，这样 $a=3$。

3.

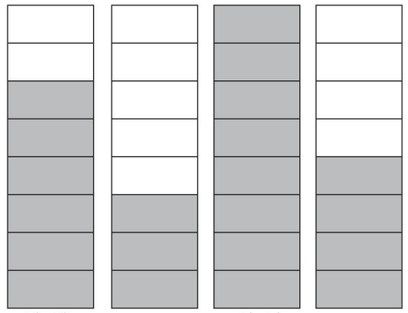

兵兵　元元　兰兰　丁丁

（1）兰兰　元元　（2）2　5

六、1.（1）291 + 332 + 301 = 924（套）

答：一共要做 924 套。

（2）291 + 332 − 215 = 408（人）

答：四年级有 408 人。

（3）1000 − 593 − 396 = 11（个）

答：还剩余 11 个座位。

2. 54 ÷ 6 = 9（元）　48 − 9 = 39（元）

答：一个茶壶比一个茶杯贵 39 元。

3. 19 − 8 = 11（只）

11 ÷ 4 = 2（辆）……3（只）

2 + 1 = 3（辆）

答：至少需要 3 辆小汽车。

附加题：

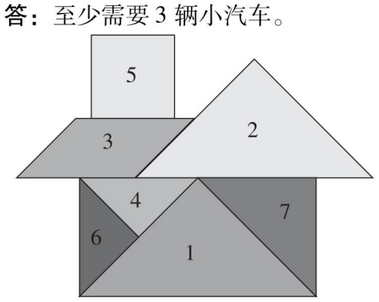

［点拨］先分析房子各部分分别是什么图形，再写序号。

期末总复习

仿真模拟卷（二）

一、1. 4002　四千零二

2. 5310　1035　4275

3. 2　600　8000

4. 毫米　分米　厘米

5. 240　250　260　125　130　135

二、1. ×　2. ×　3. ×　4. ×　5. √

三、1. ①　2. ①　3. ③　4. ②　5. ②

四、1.

［点拨］画 45 毫米长的线段。

2.

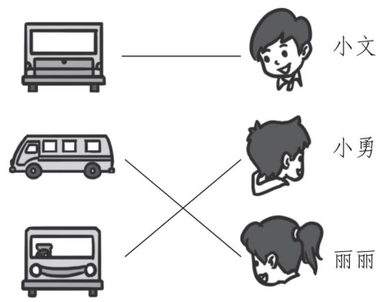

五、1. 220　730　1100　8……4　7……2

9……4　200　800　400

2. 678 + 239 = 917

```
  678        验算：  917
+ 239                − 239
-----                -----
  917                  678
```

1000 − 675 = 325

```
 1000        验算：  325
−  675               + 675
-----                -----
  325                 1000
```

805 − 276 = 529

```
  805
− 276
-----
  529
```

157 + 893 = 1050

```
  157
+ 893
-----
 1050
```

六、1. 12　24 ÷ 3 = 8（元）　8 + 4 = 12（元）

2. 50　3 × 4 = 12（人）　12 + 38 = 50（人）

［点拨］3 辆小轿车每辆限坐 4 人，3 辆一共坐 3 × 4 = 12（人），再与大客车坐的人数加起来。

3. 48　8 × 2 = 16（朵）

64 − 16 = 48（朵）

七、1. 8　4　6　6

2. 正下　正　正一　正一

八、1. 800 − 362 − 289 = 149（只）

答：还需要做 149 只。

2.（1）5 × 6 = 30（元）　50 − 30 = 20（元）

答：应找回 20 元钱。

（2）20 ÷ 8 = 2（支）……4（元）

答：剩下的钱最多买 2 支钢笔。

3. 618 − 329 + 618 = 907（本）

答：现在图书角共有 907 本书。

附加题：动物宾馆来了 27 只小动物。

期末总复习

仿真模拟卷（三）

一、1. 9080　九千零八十　9079

2. 4　31

3. 4209　4210　4211　8050　8049　8048

4. 683　85

5. 893　914　941　1001

6. 173　233

7. 1000　7000

8. △

9. 长　宽　边长　边长

10. 千米　毫米

二、1. ×　2. ×　3. ×　4. √　5. ×

三、1. ③　2. ②　3. ②　4. ②

四、1. 93　49　81　790　720　4100　7800

7400　2310　500　600　600

2. 56 ÷ 9 = 6……2　　40 ÷ 6 = 6……4

```
   6              6
9 ) 5 6        6 ) 4 0
  5 4            3 6
  ---            ---
    2              4
```

586 + 364 − 796 = 154

```
  586
+ 364
-----
  950
− 796
-----
  154
```

604 − 426 = 178

```
  604        验算：  178
− 426                + 426
-----                -----
  178                  604
```

473 + 389 = 862

```
  473        验算：  862
+ 389                − 389
-----                -----
  862                  473
```

842 − 686 + 265 = 421

```
  842
− 686
-----
  156
+ 265
-----
  421
```

五、1.



［点拨］宽是 5 − 3 = 2（厘米），所以长占 5 个格，宽占 2 个格。

2. 3　9　［点拨］个位上加 6 等于 15，因此是 9。百位上原来是 2，加进上来的 1 等于，因此是 3。

3.《熊出没》　《猫和老鼠》　5

六、1. 498 + 108 ≈ 600（元）

答：她大约一共花了 600 元钱。

2. 97 + 105 − 18 = 184（人）

答：三年级去了 184 人。

3. 9 × 2 = 18（箱）　18 + 12 = 30（箱）

答：一共有 30 箱。

4.（1）4 × 6 = 24（元）　24 + 2 = 26（元）

答：一共要 26 元。

（2）12 ÷ 3 = 4（元）　12 − 4 = 8（元）

答：1 千克比 1 千克贵 8 元。

附加题：

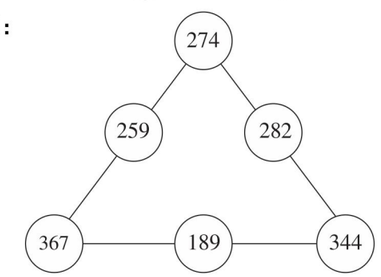

［点拨］3 个数的和是 900，左边线上 900 − 367 − 274 = 259，因此中间○里填 259。下边线上 900 − 367 − 189 = 344，因此最右面○里填 344。右边线上 900 − 344 − 274 = 282，因此最后一个○里填 282。

荣德基 微信公众号 教辅资料站
关注微信公众号“教辅资料站”获取更多学习资料

小卷：周测卷·专项卷·题型卷



01 周测培优卷（12套）

02 专项提升卷（5套）

03 题型突破卷（6套）

二年级 数学 下

（QD版）

赠送 ZENG SONG

关注微信公众号“教辅资料站”获取更多学习资料



目录

周测培优卷

有余数的除法的认识及笔算、周期问题 …… 01
万以内数的认识、读写 …… 03
万以内数的大小比较、整百、整千数的加减法、估计 …… 05
毫米、分米、千米的认识、换算和应用 …… 07
万以内的加减法(一)——口算、不进位、不退位的笔算、估算 …… 09
万以内的加减法(一)——不连续进位、退位的笔算、验算 …… 11
辨认从不同角度观察到的物体的形状 …… 13
万以内的加减法(二)——连续进位、退位的笔算 …… 15
万以内的加减法(二)——混合运算、实际应用、算式推理 …… 17
多边形的认识与图形的拼组 …… 19
用乘加、乘减、除加、除减分步解决问题 …… 21
分类统计和数据的收集、整理、分析 …… 23

专项提升卷

有余数的除法 …… 25
万以内的加减法 …… 27
长度单位的认识与应用及多边形的认识与拼组 …… 29
用计算解决实际问题 …… 31
周期问题、观察物体、算式推理、分类统计 …… 33

题型突破卷

填空题 …… 35
选择题 …… 37
计算题(一) …… 39
计算题(二) …… 41
图形题 …… 43
应用题 …… 45

参考答案及点拨 …… 47

关注微信公众号“教辅资料站”获取更多学习资料



周测培优卷1

有余数的除法的认识及笔算、周期问题

班级_____ 姓名_____ 得分_____ 时间：40分钟 满分：100分

一、填空。（1题6分，其余每空2分，共36分）

1. 

（1）每6朵扎成一束，可以扎(　　)束，还剩(　　)朵。

□○□=□（束）……□（朵）

（2）要将这些花平均插在2个花瓶中，每个花瓶插(　　)朵，还剩(　　)朵。

□○□=□（朵）……□（朵）

2. 除法算式25÷6=4……1中，25是(　　)，6是(　　)，4是(　　)，1是(　　)。

3. 在有余数的除法里，如果余数是4，那么除数最小是(　　)；如果除数是9，那么余数最大是(　　)。

4. 1月份有31天，是(　　)个星期零(　　)天。

5. (　　)里最大能填几？

5×(　　)<42　　76>9×(　　)　　8×(　　)<58

4×(　　)<25　　50>7×(　　)　　6×(　　)<56

6. 用16根火柴棒摆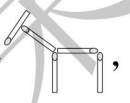，要想没有剩余，最少要拿掉(　　)根火柴棒。

二、选择。（把正确答案的序号填在括号里）（每题3分，共12分）

1. 一个数除以6，余数最大是（　　）。

①6　　②5　　③7

2. 48÷9和57÷9的（　　）相同。

①商　　②余数　　③商和余数

3. 余数是4的算式是（　　）。

①36÷8　　②10÷4　　③31÷7

4. 一个数除以7，商是9且有余数，当余数最大时，被除数是（　　）。

①69　　②63　　③72

荣德基好卷
微信公众号 教辅资料站

关注微信公众号“教辅资料站”获取更多学习资料

三、按要求在方框里填算式。（6 分）

26 ÷ 6　　29 ÷ 7　　12 ÷ 5　　17 ÷ 4　　28 ÷ 4　　17 ÷ 5

没有余数	余数是 1	余数是 2

四、用竖式计算。（每小题 3 分，共 6 分）

60 ÷ 8 =　　74 ÷ 9 =

五、解决问题。（10 +12 +18 =40 分）

1. 同学们把幸运星按下图所示的顺序重复排列。



第 34 颗幸运星是什么颜色的？

2. 50 元最多买几个鸡腿？



6 元/个

3.



解决问题，想一想你还能提出什么问题，并解答出来。

荣德基好卷
微信公众号
教辅资料站
好卷

关注微信公众号“教辅资料站”获取更多学习资料



周测培优卷2

万以内数的认识、读写

班级_____ 姓名_____ 得分_____ 时间：40分钟 满分：100分

一、填空。（每空2分，共60分）

1. 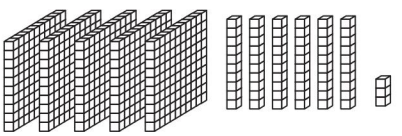

（　　）个百、（　　）个十、（　　）个一合起来是（　　）。

读作：（　　）

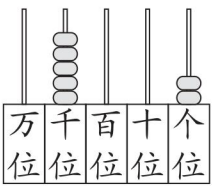

写作：（　　）

读作：（　　）

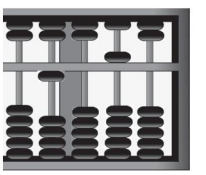

写作：（　　）

读作：（　　）

2. 10个一百是（　　），10个一千是（　　）。

3. 一个五位数，最高位是（　　）位。

4. 3099的前一个数是（　　），后一个数是（　　）。

5. 用0、3、0、7四个数字组数。

（1）一个零都不读的数是（　　）、（　　）。

（2）只读一个零的数是（　　）、（　　）、（　　）、（　　）。

（3）最大的四位数是（　　），最小的四位数是（　　）。

6. 1200里面有（　　）个百，36个十是（　　）。

7. 找规律填数。

	5500	6000		7000	

7050	7100	7150			

二、选择。（把正确答案的序号填在括号里）（每题3分，共12分）

1. 一个三位数，十位上的数是百位上的数的3倍，个位上的数是十位上的数的3倍，这个三位数是（　　）。

①139　　②319　　③639

2. 2010读作（　　）。

①二千零一　　②二千零一十　　③二千一十

3. 一台笔记本电脑的售价是五千八百零九元，横线上的数写作（　　）。

①5980　　②5890　　③5809

荣德基好卷
关注微信公众号“教辅资料站”获取更多学习资料

4. 千位的右边是（　　）位。

①百　　②万　　③十

三、照样子填一填。（每小题 1 分，共 4 分）

9876 = 9000 + 800 + 70 + 6

4870 = （　　）+（　　）+（　　）

2015 = （　　）+（　　）+（　　）

8009 = （　　）+（　　）

3129 = （　　）+（　　）+（　　）+（　　）

四、口算。（每小题 1 分，共 12 分）

40 + 60 =	92 − 30 =	100 − 20 =	96 − 6 =
53 + 6 =	50 + 40 =	62 + 30 =	70 + 30 =
89 − 9 =	80 + 10 =	37 − 30 =	95 + 4 =

五、看图连数，并写出每个数中的 8 表示的意义。（12 分）

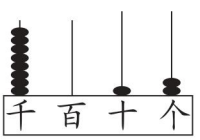

表示：8 个（　　）　　2348

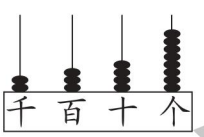

表示：8 个（　　）　　6080

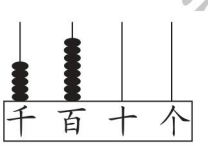

表示：8 个（　　）　　5800

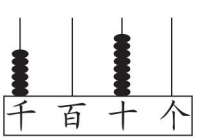

表示：8 个（　　）　　8012

荣德基好卷

关注微信公众号“教辅资料站”获取更多学习资料



周测培优卷3

荣德基 好卷

万以内数的大小比较、整百、整千数的加减法、估计

班级_____ 姓名_____ 得分_____ 时间：40分钟 满分：100分

一、口算。（每小题1分，共12分）

9000 − 4000 =	170 + 80 =	4000 + 6000 =
1200 − 300 =	6000 − 2000 =	1400 + 900 =
3200 − 200 =	1100 − 200 =	1700 + 1000 =
500 + 800 =	2300 − 2000 =	1400 − 900 =

二、填空。（每空2分，共20分）

1. 把7706、760、7060、7600按从大到小的顺序排列：

（　　）>（　　）>（　　）>（　　）。

2. 在□里填上合适的数。

58 □ 2 < 5891　　□ 59 < 362

1763 < □ 963　　8 □ 0 > 870

3. 花店运进697朵玫瑰花，约是（　　）朵。春天小学有2003名学生，约是（　　）名。

三、选择。（把正确答案的序号填在括号里）（每题3分，共9分）

1. 601、106、900这三个数中，（　　）最小。

①601　　②106　　③900

2. 比最大的三位数多1的数是（　　）。

①999　　②1000　　③1100

3. 与10000最近的数是（　　）。

①9999　　②1000　　③9000

四、按要求做题。（共19分）

1. 在下面的○里填上“>”或“<”。（每小题1分，共8分）

798 ○ 800　　638 ○ 583　　9989 ○ 10000　　239 ○ 293

3089 ○ 3098　　6123 ○ 6132　　984 ○ 1003　　1000 ○ 200

荣德基好卷

关注微信公众号“教辅资料站”获取更多学习资料

2. 连一连。(8分)

比1000小得多　　比1000大得多　　接近1000





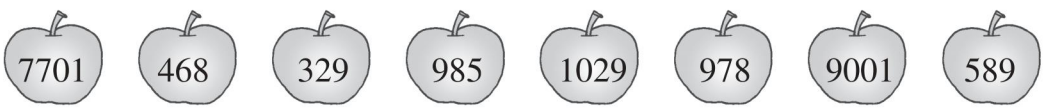

3. (3分)



大约有(　　)粒。

五、解决问题。(10+12+18=40分)

				
1100条	2000条	2500条	700条	1300条

(1)  和  一共有多少条?

(2)  比  多多少条?

(3) 你还能提出什么问题?并解答。

荣德基好卷

关注微信公众号"教辅资料站"获取更多学习资料



周测培优卷4

毫米、分米、千米的认识、换算和应用

班级_____ 姓名_____ 得分_____ 时间：40分钟 满分：100分

一、填空。（每空2分，共50分）

1. 测量较长的路程通常用（　　）作单位。

2. 尺子上一小格的长度是(　　)毫米，毫米用字母(　　)表示。

3. 量一量，填一填。



铅笔长（　　）毫米



小刀长（　　）毫米

4. 在（　　）里填上合适的单位。

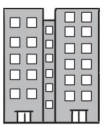

高度约是14（　　）



长度是2（　　）



身高是120（　　）



赛道长是100（　　）



厚25（　　）



高是8（　　）

5. 57分米－17分米＝（　　）米　　2千米－800米＝（　　）米

4厘米＝（　　）毫米　　6分米＝（　　）厘米

5000米＝（　　）千米　　130毫米＝（　　）厘米

87 cm－37cm＝（　　）cm＝（　　）dm

48 mm＋12 mm＝（　　）mm＝（　　）cm

6. 在◯里填上“＞”“＜”或“＝”。

15分米◯2米　　999 m◯1 km　　1 m◯99 cm　　12 cm◯1 dm

二、选择。（把正确答案的序号填在括号里）（每题3分，共15分）

1. 一辆汽车在高速公路上的速度是每小时100（　　）。

①千米　　②分米　　③米

2. 一支新铅笔长约2（　　）。

①厘米　　②毫米　　③分米

荣德基好卷

关注微信公众号“教辅资料站”获取更多学习资料

3. 小明是二年级的学生，走 1 小时大约能走（　　）。

①10 分米　　②20 米　　③2 千米

4. 小狗身长约 3（　　）。

①米　　②分米　　③厘米

5. 沿学校操场跑一圈是 250 米，要跑（　　）圈才是 1 千米。

①10　　②4　　③40

三、连线。（共 16 分）

1. 请你为他们选择合适的出行方式，连一连。（6 分）



去东湖　　去荷花塘　　去上海

2. 帮信鸽找到与信长度相等的信封。（10 分）





四、按从大到小的顺序排列。（19 分）

450 厘米、405 分米、4 米、45 千米、4050 毫米

学德基好卷

好卷

关注微信公众号“教辅资料站”获取更多学习资料

周测培优卷5

万以内的加减法(一)——口算、不进位、不退位的笔算、估算

班级_____ 姓名_____ 得分_____ 时间：40分钟 满分：100分

一、填空。(每空2分，共36分)

1. 计算 620 + 230 时，想：(　　)个十加(　　)个十得(　　)个十，是(　　)。
2. 计算 760 − 120 时，想：(　　)个十减(　　)个十得(　　)个十，是(　　)。
3. 计算 198 + 297 时，想：198 ≈(　　)，297 ≈(　　)，(　　) + (　　) = (　　)，所以 198 + 297 ≈(　　)。
4. (　　) + 320 = 680　　(　　) − 510 = 230
5. 69 与 18 的差是(　　)。
6. 一个加数是23，另一个加数是46，和是(　　)。

二、在◯里填上“>”“<”或“=”。(每小题1分，共8分)

26 + 13 ◯ 35　　77 − 36 ◯ 41　　98 − 32 ◯ 78 − 26　　50 ◯ 12 + 37

69 − 58 ◯ 13　　51 + 26 ◯ 96 − 4　　39 ◯ 84 − 41　　64 + 15 ◯ 81

三、判断，有错误的要改正。(每小题3分，共6分)

$\begin{array}{r} 73 \\ +216 \\ \hline 946 \end{array}$ (　　) 改正：

$\begin{array}{r} 652 \\ -321 \\ \hline 973 \end{array}$ (　　) 改正：

四、小蝌蚪找妈妈。(6分)

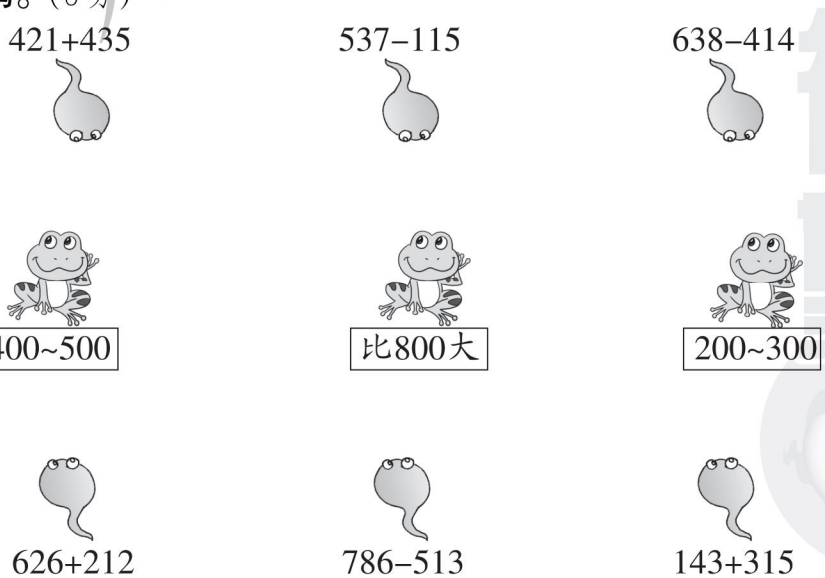

关注微信公众号“教辅资料站”获取更多学习资料

五、计算。（共14分）

1. 口算。（每小题1分，共6分）

$22+36=$　　$53-12=$　　$32+46=$

$300+80=$　　$450-200=$　　$600+700=$

2. 用竖式计算。（每小题3分，共6分）

$398+101=$　　$799-635=$

3. 估算。（每小题1分，共2分）

$506+192\approx$　　$798-312\approx$

六、解决问题。（8+10+12=30分）


22元


76元


85元


102元

（1）买和一共需要多少元？

（2）比贵多少元？

（3）飞飞用100元钱买了2件物品，猜一猜是什么？

荣德基好卷

关注微信公众号“教辅资料站”获取更多学习资料



周测培优卷6

荣德基 好卷

万以内的加减法（一）——不连续进位、退位的笔算、验算

班级_____ 姓名_____ 得分_____ 时间：40分钟 满分：100分

一、填空。（每空2分，共24分）

1. 完成竖式并填空。

$$\begin{array}{r} 3\ 8\ 6 \\ +\ 1\ 9\ 2 \\ \hline \square\square\ 8 \end{array}$$

十位上8+9得(　　)，应该在和的十位上写(　　)，然后向百位进(　　)，和的百位上的数应是(　　)。

2. 两个加数分别是869和123，和是(　　)。

3. 一个加数是403，和是782，另一个加数是(　　)。

4. 503－191的结果大约是(　　)，计算结果为(　　)。

5. 628＋191＝(　　)－156　　182＋(　　)＝293＋123

二、选择。（把正确答案的序号填在括号里）（每题3分，共12分）

1. 一个数减去329，差是468，这个数是(　　)。

①148　　②797　　③787

2. 381比(　　)多164。

①217　　②127　　③317

3. (　　)加192，和是976。

①784　　②884　　③868

4. 346与163的和是(　　)。

①393　　②509　　③183

三、计算。（共18分）

1. 用竖式计算并验算。（每小题3分，共6分）

708＋185＝　　674－245＝

荣德基好卷

关注微信公众号“教辅资料站”获取更多学习资料

2. 把下面的算式按得数从大到小的顺序排列。(12 分)

368 + 271　　283 − 146　　586 + 232　　73 + 619　　925 − 106　　781 − 526

(　　) > (　　) > (　　) > (　　) >

(　　) > (　　)

四、我会填表格。(每空 2 分，共 8 分)

加数	419	386
加数	136	
和		529

被减数		812
减数	692	
差	187	691

五、解决问题。(17 + 21 = 38 分)

1. “夕阳红”老年舞蹈队 60 岁以上的老人有 152 名，70 岁以上的有 126 名。60 岁以上的比 70 岁以上的多多少名？

2. 李良家这个月的支出情况如下：

水费	电费	食物	衣物
86 元	109 元	827 元	351 元

(1) 水费和电费一共用去多少钱？

(2) 衣物比食物少花多少钱？

(3) 你还能提出什么数学问题？并解答。

荣德基好卷

关注微信公众号“教辅资料站”获取更多学习资料



周测培优卷7

辨认从不同角度观察到的物体的形状

班级_____ 姓名_____ 得分_____ 时间：40分钟 满分：100分

一、填空。（每空2分，共12分）

1. 下面三张照片分别是在房子的哪一面拍的？





（　　）面　　（　　）面　　（　　）面

2. 下面右边的图分别是谁看到的？在（　　）里填上他们的名字。



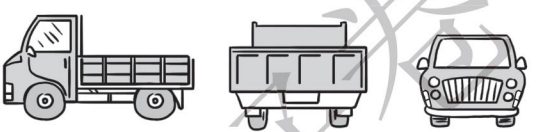

（　　）（　　）（　　）

二、选择。（把正确答案的序号填在括号里）（每题3分，共9分）

1.  小男孩看到的是(　　)。


①


②

③

2.  小女孩看到的是(　　)。


①

②

③

3.   看到的是，它在(　　)位置。

①A　　②B　　③C

荣德基好卷

关注微信公众号“教辅资料站”获取更多学习资料

三、右面的图分别是谁看到的？请连一连。（每题18分，共36分）

1.



2.



四、按要求做题。（共43分）

1. 请你在小男孩看到的图下面画“△”，在小女孩看到的图下面画“○”。（20分）



2. 请你在小女孩看到的图下面画“√”。（23分）



荣德基好卷

关注微信公众号“教辅资料站”获取更多学习资料



周测培优卷8

荣德基 RUDDER 好卷

万以内的加减法（二）——连续进位、退位的笔算

班级_____ 姓名_____ 得分_____ 时间：40分钟 满分：100分

一、用竖式计算，带★的要验算。（每小题3分，共12分）

217 + 698 =　　207 − 198 =

★768 + 95 =　　★800 − 529 =

二、判断对错，并改正错误。（每小题3分，共12分）

$\begin{array}{r} 769 \\ +185 \\ \hline 854 \end{array}$（　　）改正：

$\begin{array}{r} 770 \\ -184 \\ \hline 696 \end{array}$（　　）改正：

$\begin{array}{r} 605 \\ -596 \\ \hline 109 \end{array}$（　　）改正：

$\begin{array}{r} 213 \\ -196 \\ \hline 7 \end{array}$（　　）改正：

三、找规律，填一填。（4分）



四、列式计算。（每题3分，共9分）

1. 两个加数分别是759和172，和是多少？

2. 被减数是800，减数是695，差是多少？

荣德基好卷

关注微信公众号“教辅资料站”获取更多学习资料

3. 减数是147，差是258，被减数是多少？

五、解决问题。（19+22+22=63分）

1.



2. 31届奥运会，中国派出的体育代表团由711人组成，其中运动员有416人。

（1）中国代表团中非运动员有多少人？

（2）运动员比非运动员多多少人？

3.

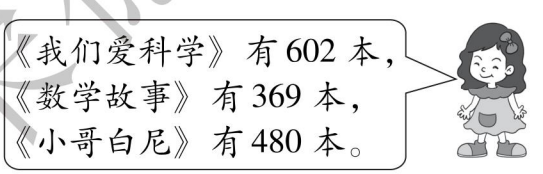

（1）《我们爱科学》比《数学故事》多多少本？

（2）你还能提出什么问题？并解答出来。

荣德基好卷

关注微信公众号“教辅资料站”获取更多学习资料

周测培优卷9

万以内的加减法（二）——混合运算、实际应用、算式推理

班级_____ 姓名_____ 得分_____ 时间：40分钟 满分：100分

一、填空。（每空2分，共8分）

1. ■有136个，★比■多25个，★有（　　）个。
2. 比325多400的数是（　　），比745少263的数是（　　）。
3. 山羊比绵羊少46只，如果绵羊有203只，那么山羊有(　　)只。

二、选择。（把正确答案的序号填在括号里）（每题3分，共6分）

1. 上手工课，一班用了15张纸，二班比一班多用了8张纸。二班用了多少张纸？正确答案是(　　)。

   ①15＋8＝23（张）　②15＋8＝23　③15－8＝7（张）

2. 上体育课，飞飞1分钟拍了86下球，月月比飞飞少拍了17下。两人一共拍了多少下？正确算式为(　　)。

   ①86＋17＋86　②86－17＋86　③86－17

三、用竖式计算。（每小题3分，共9分）

402＋136－277＝　　319＋146＋205＝　　800－438－246＝

四、看图列式计算。（每题4分，共12分）

1.

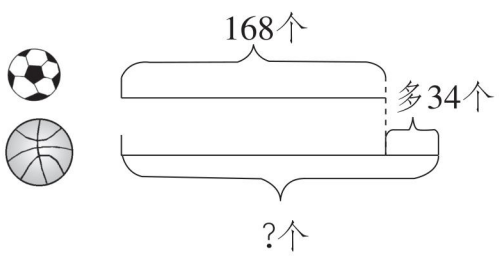

2.

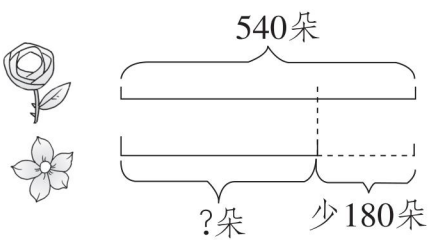

荣德基好卷

关注微信公众号“教辅资料站”获取更多学习资料

3.

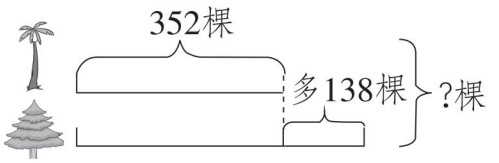

五、算式中的汉字各代表几？（10分）

美 好　　美 = （　　）

+ 美 好　　好 = （　　）

7　4

六、解决问题。（18+18+19=55分）

1. 学校买了420张书法用纸，买的绘画用纸比书法用纸多42张。学校买了绘画用纸多少张？

2. 捕鱼队捕到256条鲤鱼，捕到的草鱼比鲤鱼多47条，一共捕鱼多少条？

3. 有251瓶，比多39瓶，比少13瓶。

你能提出什么数学问题？并解答出来。

荣德基好卷

关注微信公众号“教辅资料站”获取更多学习资料



周测培优卷10

多边形的认识与图形的拼组

班级_____ 姓名_____ 得分_____ 时间：40分钟 满分：100分

一、填空。（每空2分，共36分）

1. 长方形有(　　)条边，对边(　　)，四个角都是(　　)。正方形有(　　)条边，(　　)个直角，(　　)条边一样长。

2. 有(　　)条边，(　　)个角，是(　　)边形。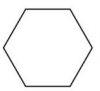有(　　)条边，(　　)个角，是(　　)边形。

3. 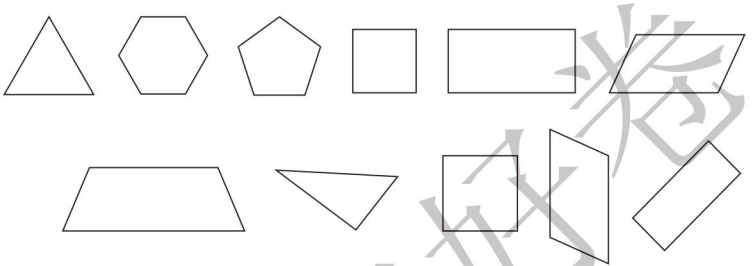

图中有(　　)个长方形，(　　)个正方形，(　　)个三角形，(　　)个四边形，(　　)个五边形，(　　)个六边形。

二、判断。（对的打“√”，错的打“×”）（每题2分，共10分）

1. 四边形一定有四条边、四个角。(　　)
2. 四边形一定比三角形大。(　　)
3. 四条边相等的图形是正方形。(　　)
4. 长方形、正方形、平行四边形都有四条边。(　　)
5. 有直角的图形都是正方形。(　　)

三、选择。（把正确答案的序号填在括号里）（每题3分，共15分）

1. 下面图形中可以拼成正方形的是(　　)和(　　)。

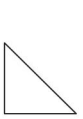①　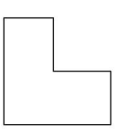②　③

2. 下面图形能拼成长方形的是(　　)和(　　)。

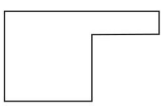①　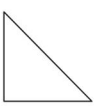②　③

荣德基好卷

关注微信公众号“教辅资料站”获取更多学习资料

3. 拼成两个正方形至少需要（　　）根长度相等的小棒。

①8　　②6　　③7

4. 下面的图形中可以拼成六边形的是（　　）和（　　）。

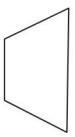
①

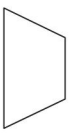
②

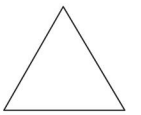
③

5. 下面的图形中可以拼成  的是（　　）和（　　）。


①


②


③

四、画一画。（每题 6 分，共 12 分）

1. 在点子图上画出两个不同的正方形。



2. 在方格纸上画出两个格数相同，但形状不同的长方形。

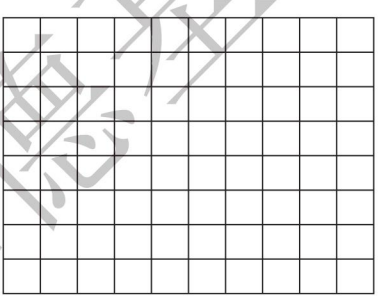

五、把一张正方形纸沿直线剪掉一个角后，剩下的部分是几边形？它有几个角？（提示：分三种情况）（27 分）



_____形

_____个角



_____形

_____个角



_____形

_____个角

荣德基好卷

关注微信公众号“教辅资料站”获取更多学习资料

周测培优卷11

用乘加、乘减、除加、除减分步解决问题

班级_____ 姓名_____ 得分_____ 时间：40分钟 满分：100分

一、填空。（每空2分，共10分）

1. 8与6的积是（　　），再加上169，和是（　　）。

2. 24除以8的商，比最大的一位数少（　　）。

3.

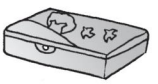

8元/个



2元/本

（1）买2本练习本和1个文具盒，一共需要（　　）元。

（2）明明有20元钱，买了2个文具盒，还剩（　　）元。

二、选择。（把正确答案的序号填在括号里）（每题3分，共6分）

1. 小丽用40元钱买了5支钢笔，小飞用6元钱买了一套尺子。一套尺子比一支钢笔便宜（　　）元。

①2　　②34　　③14

2. 手工社团课老师把72块橡皮泥平均分给9个同学，飞飞做小船用去5块，他还剩（　　）块。

①4　　②3　　③13

三、看图列式计算。（每题6分，共30分）

1.



一共能放（　　）盘。

列式：_____

2.



这两个队一共有（　　）人。

列式：_____

荣德基好卷

关注微信公众号“教辅资料站”获取更多学习资料

3.

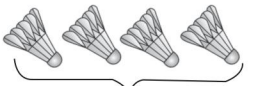

32元



5元

一个乒乓球比一个羽毛球便宜(　　)元。

列式：_____

4.



绿茶：4元/瓶



果汁：7元/杯

买5瓶绿茶和1杯果汁，一共需要(　　)元。

列式：_____

5.



蜂蜜奶12元



露露5元

(　　)便宜，每罐便宜(　　)元。

列式：_____

四、解决问题。(18+36=54分)

1. 5千克土豆10元钱，1千克豆角5元钱，买1千克豆角和1千克土豆共需要多少元？

2.



10元5个



1元/个



8元/个

(1) 20元买2个，还剩多少元？

(2) 你还能提出什么问题？并解答出来。

荣德基好卷

关注微信公众号“教辅资料站”获取更多学习资料



周测培优卷12

分类统计和数据的收集、整理、分析

班级_____ 姓名_____ 得分_____ 时间：40分钟 满分：100分

一、分一分，填一填。（9+9=18分）



1.

合计	凳子	椅子
（　　）把	（　　）把	（　　）把

2.

合计	三条腿的	四条腿的
（　　）把	（　　）把	（　　）把

二、数一数，按要求做题。（10+12+6=28分）

小鸟	小鸟的只数比松鼠和鸭子的总数少10只
兔子	√ √ √ √ √
松鼠	√ √ √√ √ √ √
鸭子	√ √ √√ √ √

1. 求小鸟有多少只。

2. 将结果填入下表。

小鸟	兔子	松鼠	鸭子
（　　）只	（　　）只	（　　）只	（　　）只

荣德基试卷

关注微信公众号“教辅资料站”获取更多学习资料

3. 根据统计的结果填空。

（1）松鼠比兔子多（　　）只。

（2）鸭子的只数是（　　）的2倍。

（3）一共有（　　）只小动物。

三、数一数，用“正”字表示出它们的数量。（15分）



：_____　：_____　：_____

四、阳光小学二（1）班参加兴趣社团情况统计如下。（8+8+8+15=39分）

美术组	合唱组	体操组	舞蹈组
正	正丅	正正正下	正正丅

1. 填一填。

名称	美术组	合唱组	体操组	舞蹈组
人数	（　　）人	（　　）人	（　　）人	（　　）人

2. 涂一涂。

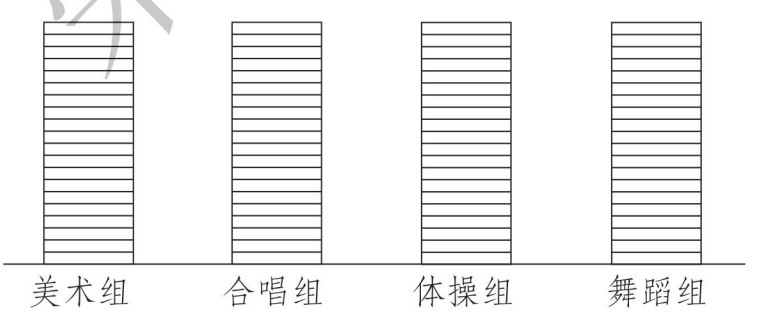

3. 参加（　　）的人数最多，参加（　　）的人数最少。

4. 二（3）班参加合唱组的人数比二（1）班参加合唱组和舞蹈组的总人数少4人，二（3）班参加合唱组的有多少人？

荣德基好卷

关注微信公众号“教辅资料站”获取更多学习资料

参考答案及点拨（小卷）

周测培优卷 1

有余数的除法的认识及笔算、周期问题

一、1. （1）2　3

15 ÷ 6 = 2（束）……3（朵）

（2）7　1

15 ÷ 2 = 7（朵）……1（朵）

2. 被除数　除数　商　余数

3. 5　8

4. 4　3　[点拨] 1 个星期有 7 天，31 里面有多少个 7，就有多少个星期。列式为 31 ÷ 7 = 4（个）……3（天）。

5. 8　8　7　6　7　9

6. 1

二、1. ②　2. ②　3. ①　4. ①

三、没有余数：28 ÷ 4

余数是 1：29 ÷ 7，17 ÷ 4

余数是 2：26 ÷ 6，12 ÷ 5，17 ÷ 5

四、60 ÷ 8 = 7……4　　74 ÷ 9 = 8……2

```
    7                8
8 ) 6 0          9 ) 7 4
    5 6              7 2
      4                2
```

五、1. 34 ÷ 5 = 6（组）……4（颗）

答：第 34 颗幸运星是白色的。

2. 50 ÷ 6 = 8（个）……2（元）

答：50 元最多买 8 个鸡腿。

3. 10 ÷ 3 = 3（罐）……1（元）

答：10 元钱可以买 3 罐饮料，还剩 1 元。

问题：放桃子至少需要多少个盘子？

18 ÷ 5 = 3（个）……3（个）

3 + 1 = 4（个）

答：放桃子至少需要 4 个盘子。

[点拨] 已经知道有 18 个，每盘只能放 5 个，求至少需要多少个盘子，要用除法计算，剩下的 3 个还需要 1 个盘子，所以至少需要 3 + 1 = 4（个）盘子。

周测培优卷 2

万以内数的认识、读写

一、1. 5　6　3　563　五百六十三　5002　五千零二　1050　一千零五十

2. 一千　一万

3. 万

4. 3098　3100

5. （1）7300　3700

（2）7030　3070　7003　3007

（3）7300　3007

6. 12　360

7. 5000　6500　7500　7200　7250　7300

二、1. ①　2. ②　3. ③　4. ①

三、4000 + 800 + 70　2000 + 10 + 5

8000 + 9　3000 + 100 + 20 + 9

四、100　62　80　90　59　90　92　100　80　90　7　99

五、千　一　百　十

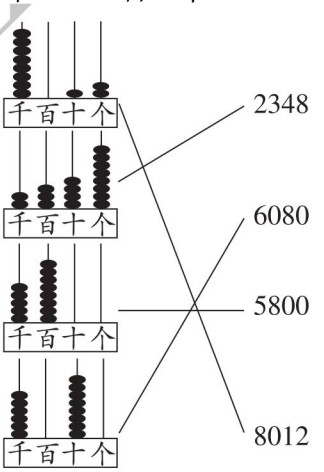

周测培优卷 3

万以内数的大小比较、整百、整千数的加减法、估计

一、5000　250　10000　900　4000　2300　3000　900　2700　1300　300　500

二、1. 7706　7600　7060　760

2. 0 ~ 8　1、2、3　1 ~ 9　8、9

3. 700　2000

三、1. ②　2. ②　3. ①

荣德基好卷

关注微信公众号“教辅资料站”获取更多学习资料

四、1. < > < < < < < >

2. 比1000小得多 比1000大得多 接近1000

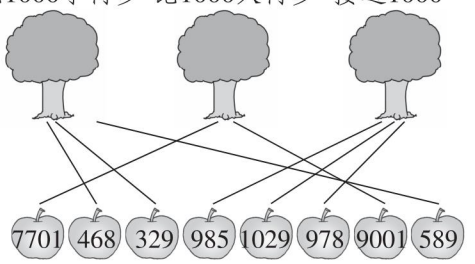

3. 3000

五、（1）1100 + 2000 = 3100（条）

答： 和  一共有 3100 条。

（2）2500 − 1100 = 1400（条）

答： 比  多 1400 条。

（3）（答案不唯一）  和  一共有多少条？

1100 + 700 = 1800（条）

答： 和  一共有 1800 条。

周测培优卷 4

毫米、分米、千米的认识、换算和应用

一、1. 千米 2. 1 mm 3. 66 60

4. 米 米 厘米 米 毫米 分米

5. 4 1200 40 60 5 13 50 5 60 6

6. < < > >

二、1. ① 2. ③ 3. ③ 4. ② 5. ②

[点拨] 因为 1 千米 = 1000 米，4 个 250 是 1000，故要跑 4 圈。

三、

1. 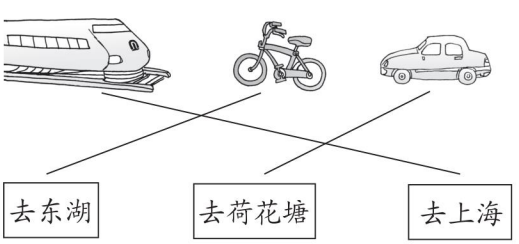

[点拨] 到上海 1200 千米，选择车速快，适合长途的火车。到荷花塘 90 千米，选择车速较快，适合短途的汽车。距离东湖较近，可以选择速度较慢的自行车。

2. 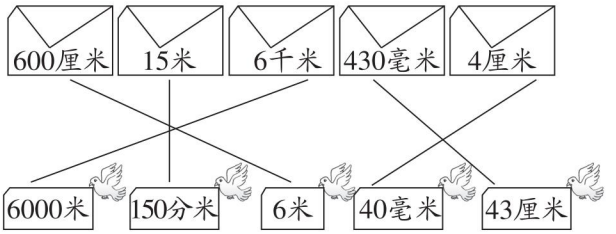

四、45 千米 > 405 分米 > 450 厘米 > 4050 毫米 > 4 米

[点拨] 先统一单位，再比较大小。

周测培优卷 5

万以内的加减法（一）——口算、不进位、不退位的笔算、估算

一、1. 62 23 85 850

2. 76 12 64 640

3. 200 300 200 300 500 500

4. 360 740 5. 51 6. 69

二、> = > > < < < <

三、

73		652	
+ 216		− 321	
× 289	×	331	

四、421+435 537−115 638−414

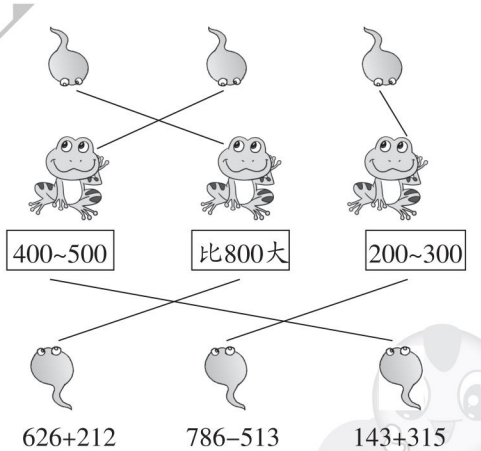

五、1. 58 41 78 380 250 1300

2. 398 + 101 = 499　　799 − 635 = 164

398	799
+ 101	− 635
499	164

3. 700 500

六、（1）102 + 76 = 178（元）

答：买地球仪和书包一共需要 178 元。

（2）85 − 22 = 63（元）

答：台灯比乒乓球拍贵 63 元。

关注微信公众号“教辅资料站”获取更多学习资料

（3）22 + 76 = 98（元）　98 < 100

答：飞飞买的是乒乓球拍和书包。

[点拨] 用 100 元买 2 件物品，每件物品的价钱均不会超过 100 元，所以不会是地球仪。再看哪 2 件物品的价钱加起来不超过 100 元，书包和台灯的总价钱超过了 100 元，乒乓球拍和台灯的总价钱也超过了 100 元，因此只能是乒乓球拍和书包。

周测培优卷 6

万以内的加减法（一）
——不连续进位、退位的笔算、验算

一、1. 5　7　17　7　1　5　2. 992

3. 379　4. 300　312　5. 975　234

二、1. ②　2. ①　3. ①　4. ②

三、1. 708 + 185 = 893

```
  708          验算：  893
+ 185                - 185
  893                  708
```

674 − 245 = 429

```
  674          验算：  429
- 245                + 245
  429                  674
```

2. 925 − 106　586 + 232　73 + 619

368 + 271　781 − 526　283 − 146

[点拨] 先将算式计算出结果，再根据结果排列算式。

四、555　143　879　121

五、1. 152 − 126 = 26（名）

答：60 岁以上的比 70 岁以上的多 26 名。

2. （1）86 + 109 = 195（元）

答：水费和电费一共用去 195 元。

（2）827 − 351 = 476（元）

答：衣物比食物少花 476 元。

（3）电费和衣物一共用去多少钱？

109 + 351 = 460（元）

答：电费和衣物一共用去 460 元。

[点拨] 答案不唯一，根据出示的支出，可以提出用加法或减法计算的相应问题。

周测培优卷 7

辨认从不同角度观察到的物体的形状

一、1. 前　侧　后

2. 小芳　小刚　小明

二、1. ②　2. ②　3. ②

三、1.



2.

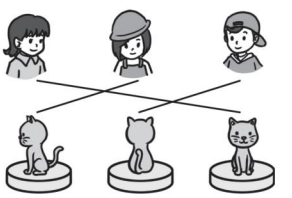

四、1. △　○　△　○

2. □　√　□　√　□

周测培优卷 8

万以内的加减法（二）
——连续进位、退位的笔算

一、217 + 698 = 915　207 − 198 = 9

```
  217          207
+ 698        - 198
  915            9
```

768 + 95 = 863

```
  768          验算：  863
+  95                -  95
  863                  768
```

800 − 529 = 271

```
  800          验算：  271
- 529                + 529
  271                  800
```

二、

```
   769          770
 + 185        - 184
 -----        -----
×  954       ×  586

   605          213
 - 596        - 196
 -----        -----
×    9       ×   17
```

三、997　459　753　299

四、1. 759 + 172 = 931

2. 800 − 695 = 105

3. 147 + 258 = 405

五、1. 900 − 867 = 33（朵）

答：还剩 33 朵。

关注微信公众号“教辅资料站”获取更多学习资料

2. （1）711 − 416 = 295（人）

答：中国代表团中非运动员有 295 人。

（2）416 − 295 = 121（人）

答：运动员比非运动员多 121 人。

3. （1）602 − 369 = 233（本）

答：《我们爱科学》比《数学故事》多 233 本。

（2）《数学故事》比《小哥白尼》少多少本？

480 − 369 = 111（本）

答：《数学故事》比《小哥白尼》少 111 本。

［点拨］答案不唯一，合理即可。

周测培优卷 9

万以内的加减法（二）
——混合运算、实际应用、算式推理

一、1. 161　2. 725　482　3. 157

二、1. ①　2. ②

三、402 + 136 − 277 = 261　319 + 146 + 205 = 670

$$\begin{array}{r} 402 \\ +\ 136 \\ \hline 538 \\ -\ 277 \\ \hline 261 \end{array} \qquad \begin{array}{r} 319 \\ +\ 146 \\ \hline 465 \\ +\ 205 \\ \hline 670 \end{array}$$

800 − 438 − 246 = 116

$$\begin{array}{r} 800 \\ -\ 438 \\ \hline 362 \\ -\ 246 \\ \hline 116 \end{array}$$

四、1. 168 + 34 = 202（个）

2. 540 − 180 = 360（朵）

3. 352 + 138 + 352 = 842（棵）

五、美 = 3　好 = 7　［点拨］个位上 2 个“好”加起来得到 4，“好”可以是 2 或 7，十位上 2 个“美”加起来得到 7，因此“好”只能是 7，“美”是 3。

六、1. 420 + 42 = 462（张）

答：学校买了绘画用纸 462 张。

2. 256 + 47 + 256 = 559（条）

答：一共捕鱼 559 条。

3.  有多少瓶？

251 + 39 = 290（瓶）

答： 有 290 瓶。

［点拨］答案不唯一，此题为开放题目，可以提出 1 步或 2 步计算的题目，合理即可。

周测培优卷 10

多边形的认识与图形的拼组

一、1. 四　相等　直角　四　四　四

2. 五　五　五　六　六　六

3. 2　2　2　7　1　1

二、1. √　2. ×　3. ×　4. √　5. ×

三、1. ①　③　2. ①　③　3. ③

4. ①　②　5. ②　③

四、1. 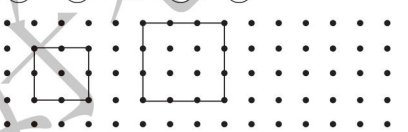

［点拨］答案不唯一，合理即可。

2. 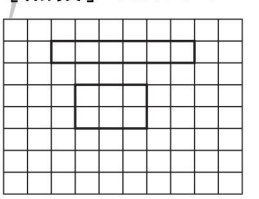

［点拨］答案不唯一，合理即可。

五、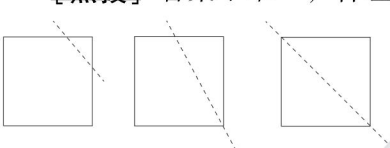

五边　5　四边　4　三角　3

周测培优卷 11

用乘加、乘减、除加、除减分步解决问题

一、1. 48　217　2. 6

3. （1）12　（2）4

二、1. ①

2. ②　［点拨］先求 72 块橡皮泥平均分成 9 份，每份是多少，用除法计算：72 ÷ 9 = 8（块），再求用去 5 块后还剩多少块，用减法计算：8 − 5 = 3（块），故选②。

三、1. 10　24 ÷ 3 = 8（盘）

荣德基好卷

关注微信公众号“教辅资料站”获取更多学习资料

8 + 2 = 10（盘）

2. 36　9 × 3 = 27（人）

27 + 9 = 36（人）

3. 3　32 ÷ 4 = 8（元）

8 − 5 = 3（元）

4. 27　4 × 5 = 20（元）

20 + 7 = 27（元）

5. 蜂蜜奶　1　12 ÷ 3 = 4（元）

5 − 4 = 1（元）

四、1. 10 ÷ 5 = 2（元）　2 + 5 = 7（元）

答：买 1 千克豆角和 1 千克土豆共需要 7 元。

2.（1）2 × 8 = 16（元）　20 − 16 = 4（元）

答：还剩 4 元。

（2）买 1 个和 1 个共需要多少元？

10 ÷ 5 = 2（元）　2 + 8 = 10（元）

答：买 1 个和 1 个共需要 10 元。

［点拨］答案不唯一，合理即可。

周测培优卷 12

分类统计和数据的收集、整理、分析

一、1. 19　5　14

2. 19　5　14

二、1. 7 + 6 = 13（只）　13 − 10 = 3（只）

答：小鸟有 3 只。

2. 3　5　7　6

3.（1）2　（2）小鸟　（3）21

三、正　正丅　正丌

四、1. 5　9　18　12

2.

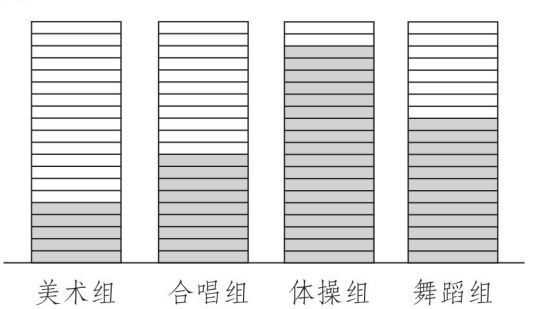

3. 体操组　美术组

4. 9 + 12 = 21（人）　21 − 4 = 17（人）

答：二（3）班参加合唱组的有 17 人。

期末总复习

专项提升卷 1　有余数的除法

1. 3　3　4　3　7　4

2. 6　7

3.（1）√

（2）×
$$\begin{array}{r} 8 \\ 3\overline{)\,2\,6} \\ 2\,4 \\ \hline 2 \end{array}$$
（3）×
$$\begin{array}{r} 6 \\ 7\overline{)\,4\,3} \\ 4\,2 \\ \hline 1 \end{array}$$

4. 3 × 4 = 12（个）　12 + 1 = 13（个）

答：一共有 13 个。

5. 8　62

6. 10 ÷ 4 = 2（条）……2（米）

答：可以做 2 条床单，还剩 2 米布。

7. 43 ÷ 5 = 8（名）……3（名）

答：平均每行有 8 名同学，还多 3 名。

8. 38 ÷ 7 = 5（个）……3（棵）

5 + 1 = 6（个）

答：至少需要 6 个筐。

9. 45 ÷ 6 = 7（条）……3（名）

7 + 1 = 8（条）

答：至少需要 8 条船。

10. 50 ÷ 8 = 6（张）……2（元）

答：最多能买 6 张这样的电影票。

11. 30 ÷ 8 = 3（束）……6（枝）

答：30 枝花最多扎成 3 束。

8 − 6 = 2（枝）

答：还需要 2 枝花。

［点拨］1 束需要 8 枝花，现在还剩 6 枝，要想再扎成 1 束还需要 2 枝花。

期末总复习

专项提升卷 2　万以内的加减法

1. 59　33

2. 66　315　62　377　241　195

3. 9　7　**［点拨］**个位上 6 + 3 = 9，十位上 9 − 2 = 7。

3　2　**［点拨］**个位上 8 − 6 = 2，十位上 7 − 4 = 3。

4.
$$\begin{array}{r} 128 \\ +\,437 \\ \hline 565 \end{array}\qquad \begin{array}{r} 316 \\ -\,182 \\ \hline 134 \end{array}\qquad \begin{array}{r} 748 \\ -\,556 \\ \hline 192 \end{array}$$

荣德基好卷

关注微信公众号“教辅资料站”获取更多学习资料

5. 6　0　6

6. 1　2　2

7. （1）396 + 89 ≈ 490（元）

答：大约需要 490 元。

（2）191 + 998 ≈ 1200（元）

答：大约需要 1200 元。

（3）396 − 102 ≈ 300（元）

答：买一台  比买一个  贵 300 元。

8. 187 + 208 ≈ 400（名）　400 < 420

答：他们能全部坐着看电影。

期末总复习

专项提升卷 3

长度单位的认识与应用及多边形的认识与拼组

1. 毫米　分米　千米

2. （1）①　（2）③　（3）③　（4）②

3. （1）×　（2）×　（3）√

4. 95　8　4

5. ＞　＜

6. 4 厘米 5 毫米 = 45 毫米　1 厘米 = 10 毫米

45 + 45 = 90（毫米）　90 − 10 = 80（毫米）

答：把两根彩带用胶水粘成一条彩带后有 80 毫米长。

［点拨］先统一长度单位，把厘米都化成毫米，然后相加减，因为接头处重合，再减去接头部分的长度。

7. 2　1　6　6

8. 正方形

9. 4　1　1

10. 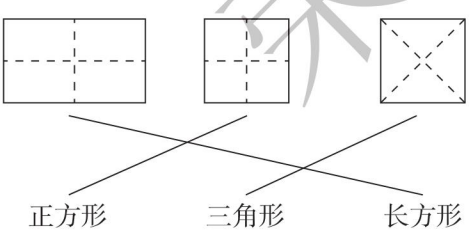

期末总复习

专项提升卷 4　用计算解决实际问题

1. （1）328 + 68 = 396（元）

答：买一套桌椅共花 396 元。

（2）510 − 369 = 141（元）

答：买一个衣柜比买一张沙发便宜 141 元。

2. （1）118 + 15 = 133（下）

133 − 46 = 87（下）

答：月月跳了 133 下，文文跳了 87 下。

（2）118 + 133 + 87 = 338（下）

答：三个人一共跳了 338 下。

3. 2 × 3 = 6（元）　5 + 6 = 11（元）

答：一共需要 11 元。

4. 4 × 8 = 32（根）　32 − 6 = 26（根）

答：摆正方形比摆六边形多用 26 根小棒。

5. 63 ÷ 9 = 7（次）　7 − 5 = 2（次）

答：还需要运 2 次。

6. 16 ÷ 2 = 8（根）　8 + 4 = 12（根）

答：一共可以做 12 根跳绳。

期末总复习

专项提升卷 5

周期问题、观察物体、算式推理、分类统计

1. 30 ÷ 4 = 7（组）……2（颗）

答：笑笑分到最后一颗。

2. 29 ÷ 3 = 9（组）……2（个）

答：第 29 个同学报的数是二。

3. ①　③　②

4. 小红　小明　小芳　小玉

5. 4　5　［点拨］个位上 10 − 学 = 学，学 = 5。十位上 9 − 5 = 4，故数 = 4。

6. 2　5　4　3　7

7. （1）14　10　12　7

（2）二（1）班春季出生的人数最多，冬季出生的人数最少。

14 − 7 = 7（人）

答：最多的比最少的多 7 人。

（3）14 + 10 + 12 + 7 = 43（人）

答：二（1）班一共有 43 人。

期末总复习

题型突破卷 1　填空题

1. 21 ÷ 4 = 5（个）……1（个）

21 ÷ 5 = 4（束）……1（个）

2. 8　8　1

3. 7　4. 6

5. 3694　三千六百九十四

5020　五千零二十

6. 四　千　9　千　个　9　一

7. 1000　2000　8. 981　138

9. 毫米　米　分米　米　千米

10. 9　20　200

11. 小亮　小玉

荣德基好卷
好卷
关注微信公众号“教辅资料站”获取更多学习资料

12. 4　4　直角

13. 长方形　长方形　正方形

［点拨］2 个正方形只能拼成一个长方形，如图：□□。4 个正方形可以拼成一个长方形，如图：□□□□，也可以拼成一个正方形，如图：□□□□。

14. 篮球有多少个　43 + 15 = 58（个）

一共有多少个球　43 + 58 = 101（个）

15. 正丅　正

16. ☆　□

17. 1　3　2　7　［点拨］个位上 3 个“学”相加是 1，推得“学”是 7。十位上加上进上来的 2 是 8，那么 3 个“数”相加是 6，推得“数”是 2。百位上 2 个“爱”相加是 6，推得“爱”是 3。千位上“热”是 1。

期末总复习

题型突破卷 2　选择题

1. ①　2. ②　3. ③　4. ②　5. ①　6. ③
7. ①　8. ①　9. ③　10. ③　11. ①
12. ②　13. ②　14. ①　15. ①　16. ②
17. ①　18. ①　19. ③　20. ②　21. ③

期末总复习

题型突破卷 3　计算题（一）

1. 2　6　5　5　7　3　2　4　29　8　6　5　3　［点拨］余数是 3，从被除数 18 中减去 3 得到 15，除数与商的乘积就是 15，根据乘法口诀“三五十五”，再根据余数要比除数小的原则，故除数为 5，商为 3。

2. 8　5　7　7　5　5　9　7　5　4

3. 7　3　37　5　7　2　17　7

4. 25 ÷ 3 = 8……1

```
   8
3 ) 2 5
    2 4
  -----
    1
```

64 ÷ 7 = 9……1

```
   9
7 ) 6 4
    6 3
  -----
    1
```

38 ÷ 4 = 9……2

```
   9
4 ) 3 8
    3 6
  -----
    2
```

55 ÷ 6 = 9……1

```
   9
6 ) 5 5
    5 4
  -----
    1
```

30 ÷ 9 = 3……3

```
   3
9 ) 3 0
    2 7
  -----
    3
```

53 ÷ 6 = 8……5

```
   8
6 ) 5 3
    4 8
  -----
    5
```

5.

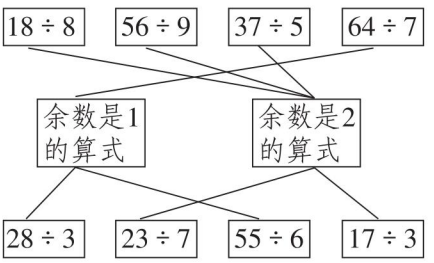

6. 5　7　90　900　40　4　1200　70　56　10　1　4　8　14　140　1500　6

7. 61　26　35　7　20　31　30　5

期末总复习

题型突破卷 4　计算题（二）

8. 78　97　32　68　11　89　210　110　6000　2100　600　3200　5800　300

9.

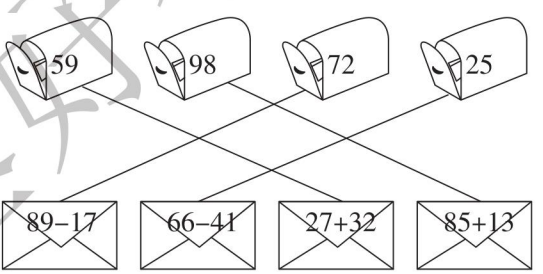

10. 900　200　9400　700　3700　500

11. 212 + 356 = 568

```
  2 1 2
+ 3 5 6
-------
  5 6 8
```

985 − 263 = 722

```
  9 8 5
- 2 6 3
-------
  7 2 2
```

427 − 102 = 325

```
  4 2 7
- 1 0 2
-------
  3 2 5
```

12. 406 + 269 = 675

```
  4 0 6
+ 2 6 9
-------
  6 7 5
```

927 − 871 = 56

```
  9 2 7
- 8 7 1
-------
    5 6
```

321 − 112 = 209

```
  3 2 1
- 1 1 2
-------
  2 0 9
```

荣德基好卷

关注微信公众号“教辅资料站”获取更多学习资料

13. 379 + 564 = 943　　256 + 567 = 823

$$\begin{array}{r} 379 \\ +\ 564 \\ \hline 943 \end{array} \qquad \begin{array}{r} 256 \\ +\ 567 \\ \hline 823 \end{array}$$

615 − 468 = 147

$$\begin{array}{r} 615 \\ -\ 468 \\ \hline 147 \end{array}$$

14. 306 − 197 = 109

$$\begin{array}{r} 306 \\ -\ 197 \\ \hline 109 \end{array}$$

验算：

$$\begin{array}{r} 109 \\ +\ 197 \\ \hline 306 \end{array}$$

900 − 685 = 215

$$\begin{array}{r} 900 \\ -\ 685 \\ \hline 215 \end{array}$$

验算：

$$\begin{array}{r} 215 \\ +\ 685 \\ \hline 900 \end{array}$$

15. 175 + 254 + 326 = 755　　362 − 138 + 256 = 480

$$\begin{array}{r} 175 \\ +\ 254 \\ \hline 429 \\ +\ 326 \\ \hline 755 \end{array} \qquad \begin{array}{r} 362 \\ -\ 138 \\ \hline 224 \\ +\ 256 \\ \hline 480 \end{array}$$

807 − 265 − 390 = 152　　235 + 395 − 439 = 191

$$\begin{array}{r} 807 \\ -\ 265 \\ \hline 542 \\ -\ 390 \\ \hline 152 \end{array} \qquad \begin{array}{r} 235 \\ +\ 395 \\ \hline 630 \\ -\ 439 \\ \hline 191 \end{array}$$

16. 400　500　1000　800

期末总复习

题型突破卷 5　图形题

1. (√)　(　)

2. 

3. ④　①　②　③

4. 11　五边形　长方形　正方形　六边形

   2　6

5. 4　6　5　5

6. 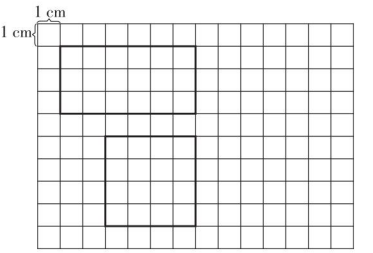

7. (1) ②　⑤　(2) ①　⑥

8. (1) 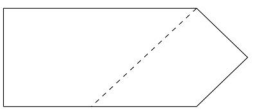

   (2) 

   (3) 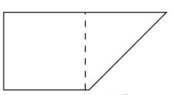

   (4) 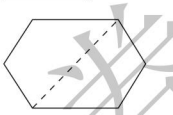

[点拨] (1) (2) (4) 分法不唯一。

期末总复习

题型突破卷 6　应用题

1. 34 ÷ 6 = 5 (张) ……4 (人)

   5 + 1 = 6 (张)

   答：至少需要 6 张桌子。

2. 15 ÷ 2 = 7 (批) ……1 (千克)

   答：15 千克红豆酱最多可以做 7 批红豆饼。

3. 10 ÷ 3 = 3 (组) ……1 (个)

   答：她报的是小狗。

4. 20 + 20 + 20 + 20 + 20 = 100 (厘米)

   100 厘米 = 1 米

   答：课桌大约长 100 厘米，合 1 米。

5. 345 + 389 + 266 = 1000 (米)

   1000 米 = 1 千米

   答：飞飞一共走了 1000 米，合 1 千米。

6. (1) 326 − 148 = 178 (只)

   答：绵羊有 178 只。

   (2) 326 + 178 = 504 (只)

   答：绵羊和山羊一共有 504 只。

7. 5 × 4 = 20 (条)　20 + 7 = 27 (条)

   答：它们一共要吃 27 条虫子。

8. 5 × 6 = 30 (个)　30 − 17 = 13 (个)

   答：还剩 13 个。

荣德基好卷

关注微信公众号“教辅资料站”获取更多学习资料