教辅资料站
电子教辅 · 大卷练习
主编 · 荣德基 主编
扫码关注获取更多学习资料

中国品牌创新发展工程
推荐品牌

大卷达标 小卷领先

好卷

XIAOJUANLINGXIAN DAJUANDABIAO

大卷达标 小卷领先

大卷达标 | **单元** 检测卷（6套） | **模块** 过关卷（2套） | **仿真** 模拟卷（3套）

小卷领先 | **周测** 培优卷（10套） | **专项** 提升卷（4套） | **题型** 突破卷（6套）



3 数学 年级（上）（XS版）

本册主编：王 苇 唐 静

时代出版传媒股份有限公司
安徽教育出版社

好卷 = 《大卷》+《小卷》

大卷达标 小卷领先

不是所有的试卷都叫“好卷”，期末提分才是硬道理！



同步测评用

大卷 · 单元检测卷

第一单元 跟踪检测卷……1
第二单元 跟踪检测卷……3
第三单元 跟踪检测卷……5
第四单元 跟踪检测卷……7
第五、六单元 跟踪检测卷……9
第七、八单元 跟踪检测卷……11

小卷 · 周测培优卷

认识克、千克、吨……01
一位数乘两位数……03
一位数乘三位数、问题解决……05
辨认方向……07
两位数除以一位数……09
探索规律、问题解决……11
四则混合运算……13
年、月、日 24时计时法……15
认识周长 长方形、正方形的周长……17
分数的初步认识……19

期末冲刺用

大卷 · 模块过关卷

数与代数……13
图形与几何……15

大卷 · 仿真模拟卷

仿真模拟卷（一）……17
仿真模拟卷（二）……19
仿真模拟卷（三）……21

小卷 · 专项提升卷

一位数乘两、三位数及应用……21
两位数除以一位数及应用……23
四则混合运算及应用……25
周长、分数的认识及应用……27

小卷 · 题型突破卷

填空题（一）……29
填空题（二）……31
计算题……33
图形题……35
应用题（一）……37
应用题（二）……39

| 大卷答案▶ 见大卷23~28页 / 小卷答案▶ 见小卷41~46页 |

关注微信公众号“教辅资料站”获取更多学习资料

荣德基 好卷

3年级 数学 上（XS版）

第一单元 跟踪检测卷

克、千克、吨

时间：90分钟　满分：100+10分

题号	一	二	三	四	五	六	附加题	总分
得分								

姓名　学号　班级　学校

一、填空。（每空1分，共20分）

1. 常见的质量单位有（　　）、（　　）、（　　）。
2. 计量较重的物品时，通常用（　　）作单位，用字母（　　）表示。
3. 小丽家的小白兔重4000克，合（　　）。
4. 一袋大米重200千克，（　　）袋这样的大米重1吨。
5. 在◯里填上“>”“<”或“=”。

   3600 kg ◯ 3吨　　4400 kg ◯ 44吨

   610 kg ◯ 6000 kg　　8998 g ◯ 9 kg

   7000 kg − 600 kg ◯ 6000 kg　　3吨 + 4吨 ◯ 7000 kg

6. 5 kg 25g =（　　）g　　6060 g =（　　）kg（　　）g

   3吨400千克 =（　　）千克　　（　　）kg = 2吨

   5200 kg − 200 kg =（　　）吨　　4 kg + 3 kg =（　　）g

二、判断。（每题1分，共5分）

1. 千克一定比克重。（　　）
2. 相邻两个质量单位之间的进率是1000。（　　）
3. 小菲家的小狗一次能吃50千克食物。（　　）
4. 一个菠萝有1克重。（　　）
5. 一袋红糖重500克，四袋这样的红糖刚好1千克。（　　）

三、选择。（每题2分，共10分）

1. 乒乓球比羽毛球（　　），比实心球（　　）。

   A. 重得多　　B. 轻一些　　C. 轻得多

2. 周末李铭全家去漂流，漂流船自重60（　　），最多可载重300（　　）。

   A. 克　　B. 千克　　C. 吨

3. 小包装食盐每袋重500（　　）。

   A. 克　　B. 千克　　C. 吨

4. 一辆卡车的载重量大约是9000千克，合（　　）吨。

   A. 90　　B. 900　　C. 9

5. 小亮和2个朋友一起吃了一个重6千克的西瓜，平均每人吃了（　　）千克西瓜。

   A. 3　　B. 2　　C. 1

四、在括号里填上合适的单位。（每题3分，共15分）

1.  约重140（　　）。
2.  约重5（　　）。
3.  约重30（　　）。
4.  约厚2（　　）。
5.  身高是138（　　），体重是42（　　）。

五、按要求排列顺序。（每题10分，共20分）

1. 按从轻到重的顺序排列。

   5吨　　5000 g　　5500 kg　　15 kg　　50 g

2. 按从重到轻的顺序排列。

   2 kg 220g　　2500 g　　2吨2克　　7 kg 20 g　　200 kg 900 g

荣德基 好卷

微信公众号 教辅资料站

关注微信公众号“教辅资料站”获取更多学习资料

请不要在密封线内答题哦！ 好卷提示：

六、解决问题。（第 4 题 15 分，其余每题 5 分，共 30 分）

1. 

一头大象比一头牛重多少千克？

2. 菜店今天运来一些南瓜，上午卖出 3000 千克，下午卖出 2 吨。菜店今天一共卖出多少千克的南瓜？

3. 学校食堂准备购买 9 箱苹果和 220 千克鸭梨，每箱苹果重 9 千克，一辆载重 300 千克的三轮车能一次拉完吗？

4. 学校食堂运来 5 吨大米，200 千克白菜。

（1）白菜用掉 160 千克，还剩多少千克？

（2）大米还剩 3 吨，剩下的大米比剩下的白菜重多少千克？

（3）你还能提出什么数学问题呢？并解决。

附加题：（10 分）

一瓶油连瓶共重 850 克，吃了一半油后连瓶共重 450 克，瓶里原来有油多少克？空瓶多重？

自己说说

老师点评

家长点评

好卷
微信公众号
教辅资料站
关注微信公众号“教辅资料站”获取更多学习资料

荣德基 好卷 3年级 数学 上（XS版）

第二单元 跟踪检测卷

一位数乘两位数、三位数的乘法

时间：90分钟　满分：100+10分

题号	一	二	三	四	五	附加题	总分
得分							

一、填空。（每空1分，共22分）

1. 口算 60×2 时，可以这样想：（　　）个十乘（　　）等于（　　）个十，就是（　　），积的最高位是（　　）位。
2. 估算 37×7，可以把37看作（　　）来算；估算 8×409，可以把409看作（　　）来算。
3. $30+30+30+30+30+30=$（　　）×（　　）=（　　）
4. 最小的两位数乘最大的一位数，积是（　　）。
5. 有一个三位数，百位上是2，十位上是9，个位上是6，它的3倍是（　　）。
6. 根据 $10\times5=50$，直接写出下列各算式的积。

   $30\times5=$（　　）　　$100\times5=$（　　）

   $80\times5=$（　　）　　$200\times5=$（　　）
7. 在◯里填上“>”“<”或“=”。

   250×4 ◯ 240×5　　$270-0$ ◯ 270×0

   724 ◯ 724×1　　508×3 ◯ 580×3
8. 要使 $197\times\triangle$ 的积是三位数，△最大是（　　）；要使 $197\times\triangle$ 的积是四位数，△最小是（　　）。

二、判断。（每题1分，共4分）

1. 一个数（0除外）加0一定大于这个数乘0。（　　）
2. $30\times2=600$（　　）
3. 507×7 的积的中间一定有0。（　　）
4. 一位数乘三位数，积可能是三位数，也可能是两位数。（　　）

三、选择。（每题2分，共10分）

1. 下面各算式，积最小的是（　　）。

   A. 35×7　　B. 5×47　　C. 4×49
2. $140\times$（　　）>840，括号里最小能填（　　）。

   A. 6　　B. 7　　C. 8
3. 两个数相乘，一个因数的末尾有1个0，积的末尾（　　）。

   A. 一定有1个0　　B. 一定有2个0　　C. 至少有1个0
4. 小清在一个长200米的游泳池里游了4个来回，他一共游了（　　）米。

   A. 600　　B. 800　　C. 1600
5. 一个三位数乘0，积一定是（　　）。

   A. 三位数　　B. 四位数　　C. 0

四、计算。（第1题8分，第2题18分，其余每题4分，共34分）

1. 直接写得数。

   $70\times9=$　　$43\times3=$　　$0\times566=$　　$23\times4=$

   $1\times87=$　　$365-0=$　　$63\times2=$　　$101\times4=$
2. 用竖式计算。

   $57\times8=$　　$409\times7=$　　$199\times9=$

   $6\times317=$　　$925\times4=$　　$720\times5=$
3. 看图列式计算。

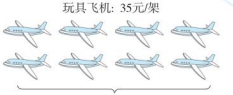

□◯□=□（元）

姓名　学号　班级　学校
请不要在密封线内答题哦！
荣德基 好卷
微信公众号 教辅资料站

关注微信公众号“教辅资料站”获取更多学习资料

4. 数学医院。

$$\begin{array}{r} 62 \\ \times\quad 5 \\ \hline 3010 \end{array}\ (\quad)$$

改正:

$$\begin{array}{r} 704 \\ \times\quad 9 \\ \hline 666 \end{array}\ (\quad)$$

改正:

五、解决问题。（第 5 题 10 分，其余每题 5 分，共 30 分）

1. 小刚家使用无线网络，下载速度是每秒 60 兆。由于网速太慢，他更换新的路由器后，网速是之前的 8 倍还要多 20 兆。他家现在的下载速度是每秒多少兆？

2. 和谐号动车有 8 节车厢，前 7 节车厢每节有 108 个座位，第 8 节车厢有 96 个座位。这列动车共有多少个座位？

3. 一辆山地车 857 元，健身俱乐部要买 6 辆这样的山地车，采购员带 5000 元够吗？

4. 国庆节快到了，三（1）班打算用一些气球装饰教室。如果教室里挂 5 排气球，每排 228 个，大约需要准备多少个气球？

5. 6 名老师带 240 名学生去电影院看电影。

（1）他们分开买票，成人票和儿童票共多少元？



成人票：9元/人
儿童票：6元/人
团体票（100人以上）：5元/人

（2）如果买团体票，比分开买便宜多少元？

附加题：（10 分）

在□里填上适当的数，使竖式成立。

（1）
$$\begin{array}{r} \square\square 7 \\ \times\quad \square \\ \hline 889 \end{array}$$

（2）
$$\begin{array}{r} \square\square 9 \\ \times\quad \square \\ \hline 1832 \end{array}$$

关注微信公众号“教辅资料站”获取更多学习资料

荣德基 好卷 3年级 数学 上（XS版）

期末总复习 模块过关卷

数与代数

时间：90分钟　满分：100+10分

题号	一	二	三	四	五	附加题	总分
得分							

姓名　学号　班级　学校

一、填空。（每空1分，共31分）

1. 在括号里填上合适的单位。
   1枚2分硬币重1（　　）。　　小明的体重是35（　　）。
   一辆货车载重量是3（　　）。　　一包方便面重150（　　）。
2. 学校食堂有8吨煤，用了3000千克，还剩（　　）吨。
3. 124×3的积是（　　）位数，824×8的积是（　　）位数。
4. 0和任何数相乘都得（　　），1乘任何数都得（　　）。
5. 估算302×8时，把302看作（　　），算得积为（　　）。
6. 在○里填上“>”“<”或“=”。
   32×3 ○ 96　　27×2 ○ 65　　90 ○ 16×5　　0 ○ 9÷9
   24×5 ○ 100　　50÷7 ○ 6　　4×16 ○ 10×6　　12÷6 ○ 12÷8
7. 一本故事书80页，每天读18页，3天后还剩（　　）页没读。
8. 小刚家买了5000克大米，每天大约吃500克，6天吃了（　　）克，合（　　）千克，还剩下（　　）千克。
9. 找规律填数。
   （1）85，80，75，70，（　　），（　　）
   （2）2，6，18，54，（　　），（　　）
   （3）96，48，24，（　　），（　　）
10. 有40人排队，至少出去（　　）人就可以平均站成3路纵队，至少增加（　　）人也可以平均站成3路纵队。

二、选择。（每题2分，共12分）

1. 140×5的积的末尾有（　　）个0。
   A. 3　　B. 2　　C. 1
2. 5个最小的三位数的和是（　　）。
   A. 50　　B. 500　　C. 5000
3. 不用计算，估算下面（　　）的结果最接近900。
   A. 300×4　　B. 400×2　　C. 99×9
4. 奶奶的养鸭场最近买了120只鸭子，原来鸭子的数量是新买来鸭子的2倍，求现在养鸭场一共有多少只鸭子，列式正确的是（　　）。
   A. 120×2　　B. 120+120÷2　　C. 120+120×2
5. 某公园每张门票4元，82元最多可以买（　　）张门票。
   A. 20　　B. 21　　C. 22
6. 一串珠子按●●●○○的顺序依次排列，第48颗珠子是什么色？（　　）。
   A. 黑色　　B. 白色　　C. 不能确定

三、先判断，再改正。（6分）

30+40×6　改正：
=70×6
=420（　　）

80+40÷5　改正：
=120÷5
=24（　　）

四、计算。（第1题8分，第2题12分，第3题6分，共26分）

1. 直接写出得数。
   15×2=　　11×4=　　4×300=　　3×12=
   43×3=　　7×40=　　59÷8=　　88÷8=
2. 用竖式计算。
   545×8=　　302×5=　　420×7=

   68÷4=　　75÷3=　　85÷6=

3. 列式计算。
   （1）356乘3的积再减去73，差是多少？

正点助考：请不要在密封线内答题哦！
荣德基好卷
微信公众号 教辅资料站
关注微信公众号“教辅资料站”获取更多学习资料

（2）78 除以 6 减 3 的差，商是多少？

五、解决问题。（第 6 题 5 分，其余每题 4 分，共 25 分）

1. 一辆车的质量为 5 吨，现载有 4000 千克的面粉，准备通过一座限重 10 吨的大桥。这辆车能否安全地通过这座大桥？

2. 一件毛衣和一件大衣一共要多少钱？



3. 学校图书馆有故事书 89 本，平均分给 4 个班级，每个班级可分得多少本？还剩多少本？

4. 某次绘画比赛一共有 56 人参加，如果 6 人一张桌子，至少需要几张桌子？

5. 某超市出售一种花生核桃奶，一件有 5 瓶。如果要买 7 瓶，怎样买比较合算？

批发:55元/件
零售:12元/瓶

6. 小马虎计算 40 +□÷2 时，先计算加法，后计算除法，得到的结果是 50，你能算出正确的得数吗？

附加题：（10 分）

将一副扑克牌分给甲、乙、丙 3 人，甲的牌比乙的多 3 张，乙和丙的牌一样多，请问甲、乙、丙各有多少张牌？（提示：一副扑克牌有 54 张）

关注微信公众号“教辅资料站”获取更多学习资料

荣德基 好卷 3年级 数学 上（XS版）

期末总复习

仿真模拟卷（一）

时间：90分钟　满分：100+10分

题号	一	二	三	四	五	六	附加题	总分
得分								

姓名　学号　班级　学校

一、填空。（每空1分，共25分）

1. 5000克＝（　　）千克　　7吨＝（　　）千克　　2日＝（　　）时
   200克＋800克＝（　　）克＝（　　）千克　　36月＝（　　）年
2. $\frac{3}{7}$里面有（　　）个$\frac{1}{7}$；4个$\frac{1}{5}$是（　　）。
3. 某年的6月有4个星期三，5个星期二，这年的6月1日是星期（　　）。
4. 一节课45分钟，萌萌上完数学课是9时15分，她是（　　）时（　　）分开始上数学课的。
5. 在○里填上“＞”“＜”或“＝”。
   23×8 ○ $23\times7+22$　　$9\times56-9$ ○ 55×9　　$98\div7$ ○ $98\div6$
   38×2 ○ 28×3　　$\frac{5}{6}$ ○ $\frac{4}{6}$　　$\frac{1}{4}$ ○ 1
6. 香蕉每千克5元，王阿姨付了39元，大约买了（　　）千克香蕉。
7. 小华折了85颗幸运星，是他折的纸鹤只数的5倍，小华折了（　　）只纸鹤。
8. 小刚每天记5个单词，他在2011年的2月一共能记（　　）个单词。
9. 47个同学包车去农场参观新农村建设，每辆出租车坐4人，至少需要（　　）辆出租车。
10. 用一条丝带刚好围成一个长8 cm、宽4 cm的长方形。如果用这条丝带围成一个正方形，它的边长是（　　）cm，周长是（　　）cm。
11. （1）3，9，27，（　　），243
    （2）48，24，12，6，（　　）

二、判断。（每题1分，共5分）

1. 周长相等的两个长方形，它们的形状也一定相同。（　　）
2. 公历年份是4的倍数的都是闰年。（　　）
3. 用24时计时法计时既简明，又不容易出错。（　　）
4. 分数中的分子表示分的份数，分母表示取的份数。（　　）
5. 两位数除以一位数，商可能是一位数，也可能是两位数。（　　）

三、选择。（每题1分，共5分）

1. 在算式□÷6＝7……△中，△最大是（　　）。
   A. 5　　B. 6　　C. 1
2. 傍晚面对太阳，你的影子在（　　）方。
   A. 东　　B. 南　　C. 西
3. 小明今年20岁，但是他只过了5个生日，请问他的生日是（　　）。
   A. 2月28日　　B. 2月29日　　C. 2月30日
4. 小明从一楼走到三楼用了24秒，照这样计算，他从一楼走到五楼用（　　）秒。
   A. 40　　B. 44　　C. 48
5. 1千克铁和1千克棉花相比，（　　）重。
   A. 铁　　B. 棉花　　C. 一样

四、计算。（每题12分，共36分）

1. 直接写出得数。
   $7\times800=$　　$0\times510=$　　$66\div3=$　　$234\times2=$
   $8\times125=$　　$80\div8=$　　$26\times3=$　　$60-40\div5=$
   $\frac{1}{5}+\frac{1}{5}=$　　$\frac{3}{7}+\frac{4}{7}=$　　$\frac{4}{5}-\frac{1}{5}=$　　$(188-100)\times3=$
2. 用竖式计算。
   $89\div4=$　　$307\times6=$　　$8\times150=$　　$518\times4=$
3. 脱式计算。
   $56\div7-7$　　$600-6\times12$　　$90\div(9-3)$　　$25\times5+45$

荣德基 好卷
微信公众号 教辅资料站
关注微信公众号“教辅资料站”获取更多学习资料
请不要在密封线内答题哦！
注意提示：

五、小向导。（4 分）

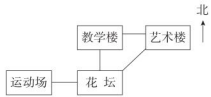

1. 小东从运动场到教学楼，应先向（　　）走到花坛，再向（　　）走到教学楼。
2. 小丽从艺术楼到运动场，应先向（　　）走到花坛，再向（　　）走到运动场。

六、解决问题。（第 6 题 5 分，其余每题 4 分，共 25 分）

1. 小王在电脑上录入一篇文章，已经录了 9 行，每行 24 个字，还有 78 个字没有录。这篇文章一共有多少个字？

2. 篮球场是一个长方形，它的长是 28 米，宽是 15 米，小明沿着篮球场跑 4 圈，要跑多少米？

3. 张老师带同学们去海洋公园玩，男生 23 人，女生 26 人，门票 8 元 1 张，买门票一共要多少元？

4. 张爷爷家养了 200 只鸡，每天给餐馆送去 15 只，连续送了一周后，还剩多少只鸡？

5. 张叔叔从上午 10 时一直工作到下午 4 时，加工了 90 个零件，张叔叔平均每时加工多少个零件？

6. 甲组 6 人种了 78 棵树，乙组 7 人种了 84 棵树。哪个小组平均每人种的树多？

附加题：（10 分）

有甲、乙、丙、丁四人同住在一座四层的楼房里，他们之中有工程师、工人、教师和医生。如果已知：（1）甲比乙住的楼层高，比丙住的楼层低，丁住第四层。（2）医生住在教师的楼上，工人的楼下，工程师住第一层。

试问：甲、乙、丙、丁各住在这座楼的第几层？各自的职业是什么？

自己说说

老师点评

家长点评

荣德基
微信公众号
教辅资料站
关注微信公众号“教辅资料站”获取更多学习资料

期末总复习
仿真模拟卷（二）

时间：90分钟　满分：100+10分

题号	一	二	三	四	五	六	七	附加题	总分
得分									

一、填空。（每空1分，共25分）

1. 在括号里填上合适的单位名称。

一个苹果约重100（　　）。　　一头成年鲸约重120（　　）。

一只母鸡约重3000（　　）。　　明明的体重约是26（　　）。

2. 一头大象重4吨，是（　　）千克；如果1头牛重500千克，那么这头大象的体重相当于（　　）头牛的体重。

3. 在○里填“＞”“＜”或“＝”。

2500千克○2吨500千克　　12吨○1200千克　　7800克○8千克

77÷2○77×2　　5×78－5○77×5　　56÷4○64÷5

4. 下午放学，红红坐公交车，她面向汽车行驶的方向坐着，看到太阳在她的右面，到了十字路口，公交车向右转弯，公交车开向了（　　）方。

5. 从长9 cm，宽6 cm的长方形中剪一个最大的正方形，正方形的周长是（　　）cm。

6. 2020年2月14日是星期五，4月14日是星期（　　）。

7. 小强做一道除法题时，误把除数6看成了9，算出的商是8，余数是6，正确的结果应该是（　　）。

8. □÷4＝21……△，△里最大填（　　），□里最大填（　　）。

9. 用分数表示下面各图中的阴影部分。



（　　）　（　　）　（　　）　（　　）

10. 根据86÷2＝43，90－43＝47，列综合算式是（　　）。

11. 找规律填数。

（1）15，12，9，（　　），3　　（2）1，4，9，16，（　　），36

二、判断。（每题2分，共10分）

1. 用同样长的两根铁丝分别围成一个长方形和一个正方形，长方形的周长比正方形的周长要长。（　　）

2. 把一块饼分成5份，每份是它的$\frac{1}{5}$。（　　）

3. 16；30用普通计时法表示是6；30。（　　）

4. 两位数除以一位数，当有余数时，这个余数一定小于9。（　　）

5. 质量单位之间的进率是1000。（　　）

三、选择。（每题2分，共6分）

1. 一个长方形的宽是6 cm，长比宽多2 cm，这个长方形的周长是（　　）。

A. 28 cm　　B. 20 cm　　C. 36 cm

2. 如果1□5×9的积是三位数，□里的数是（　　）。

A. 2　　B. 1　　C. 0

3. （　　）是闰年。

A. 2018年　　B. 2020年　　C. 2100年

四、计算。（第1题12分，其余每题6分，共24分）

1. 直接写得数。

23×3＝	66÷6＝	42×5＝	0×68＝
500×2＝	99÷9＝	29÷9＝	24×5＝
$\frac{4}{5}-\frac{4}{5}$＝	$\frac{1}{7}+\frac{6}{7}$＝	$\frac{8}{9}-\frac{6}{9}$＝	$\frac{3}{4}-\frac{2}{4}$＝

2. 用竖式计算。

402×7＝　　66÷8＝　　90÷7＝

3. 脱式计算。

（126＋3）×5　　93－93÷3　　123＋0×8

关注微信公众号“教辅资料站”获取更多学习资料

五、在方格纸上画周长是 20 cm 的长方形和正方形各一个（小正方形的边长为 1 cm）。（6 分）



六、看图填空。（8 分）



1. 小刚从家里出发先向（　　）方走到体育场，再向（　　）方走到商店，再向（　　）方走到银行，最后向（　　）方走到学校。
2. 老师从学校出发先向（　　）方走到银行，再向（　　）方走到商店，再向（　　）方走到体育场，最后向（　　）方走到超市。

七、解决问题。（第 1、2、3 题每题 3 分，其余每题 4 分，共 21 分）

1. 快到元旦了，三（1）班要用各种颜色的气球装饰教室。如果按照 3 个黄气球、4 个蓝气球、2 个红气球的顺序来排列，你知道第 80 个气球是什么颜色吗？

2. 一辆汽车上午 7 时从甲站出发，同一天下午 3 时到达乙站，这辆汽车平均每时行 45 km，甲、乙两站之间的距离是多少千米？

3. 一根 12 米长的钢管，每 3 米锯成一段，每锯断一次需要 13 分钟，全部锯完需要多少分钟？

4. 一瓶蜂蜜连瓶重 1 千克，倒出一半蜂蜜后连瓶重 550 克，瓶里原来有蜂蜜多少克？瓶重多少克？

5. 张奶奶家的院子里有 4 棵核桃树，今年共收核桃 79 千克，平均每棵核桃树大约收多少千克核桃？

6. 东城小学的长方形操场原来长 80 米，宽 40 米，现在将它的长和宽各增加 20 米，增加后绕操场跑一圈共跑多少米？

附加题：（10 分）

求右面图形的周长。（单位：厘米）

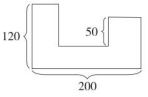

自己说说
老师点评
家长点评
荣德基好卷
微信公众号
教辅资料站
关注微信公众号“教辅资料站”获取更多学习资料

第一单元跟踪检测卷

克、千克、吨

一、1. 克　千克　吨

2. 千克　kg

3. 4千克

4. 5

5. ＞　＜　＜　＜　＞　＝

6. 5025　6　60　3400　2000　5　7000

二、1. ×

2. √

3. ×

4. ×

5. ×

三、1. B　C

2. B　B

3. A

4. C

5. B

【点拨】加上小亮一共三人。

四、1. 克

2. 千克

3. 吨

4. 厘米

5. 厘米　千克

五、1. 50 g＜5000 g＜15 kg＜5 吨　＜5500 kg

2. 2 吨 2 克＞200 kg 900 g＞7 kg 20 g＞2500 g＞2 kg 220 g

六、1. 4 吨＝4000 千克

4000－300＝3700（千克）

【点拨】求差问题用减法，注意先统一单位。

2. 2 吨＝2000 千克

2000＋3000＝5000（千克）

【点拨】求和问题用加法，注意先统一单位。

3. 9×9＝81（千克）

81＋220＝301（千克）

300 千克＜301 千克

一辆载重 300 千克的三轮车不能一次拉完。

4.（1）200－160＝40（千克）

（2）3 吨＝3000 千克

3000－40＝2960（千克）

（3）略

附加题：850－450＝400（克）

400×2＝800（克）

850－800＝50（克）

瓶里原来有油 800 克，空瓶重 50 克。

【点拨】吃油前后瓶的质量没有发生变化。

第二单元跟踪检测卷

一位数乘两位数、三位数的乘法

一、1. 6　2　12　120　百

2. 40　400

3. 30　6　180

4. 90

【点拨】10×9＝90

5. 888

【点拨】296×3＝888

6. 150　500　400　1000

7. ＜　＞　＝　＜

8. 5　6

二、1. √

2. ×

3. ×

4. ×

三、1. C

2. B

3. C

4. C

【点拨】一个来回是 400 米。

5. C

【点拨】0 乘任何数都为 0。

四、1. 630　129　0　92　87　365　126　404

2. 456　2863　1791　1902　3700　3600

3. 35×8＝280

4. ×　改正：
$$\begin{array}{r} 62 \\ \times\ \ 5 \\ \hline 310 \end{array}$$

×　改正：
$$\begin{array}{r} 704 \\ \times\ \ \ 9 \\ \hline 6336 \end{array}$$

五、1. 60×8＋20＝500（兆）

2. 108×7＋96＝852（个）

【点拨】注意加上第 8 节车厢的座位数。

3. 857×6＝5142（元）

5000 元＜5142 元

采购员带 5000 元不够。

4. 把 228 看作是 230。

230×5＝1150（个）

5.（1）9×6＝54（元）

6×240＝1440（元）

54＋1440＝1494（元）

（2）240＋6＝246（人）

246×5＝1230（元）

1494－1230＝264（元）

附加题：（1）
$$\begin{array}{r} 127 \\ \times\ \ \ 7 \\ \hline 889 \end{array}$$

关注微信公众号“教辅资料站”获取更多学习资料

（2）
$$\begin{array}{r} 229 \\ \times\quad 8 \\ \hline 1832 \end{array}$$

第三单元跟踪检测卷

辨认方向

一、1. 东北　西南　东南

2. 6　东

3. 东

4. 西

5. 东南　西北

6. 东　北　南

7. 西北

8. 西　750

9. （1）

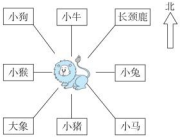

（2）东南　西

（3）北　西北　西

二、1. √

2. ×

3. √

4. ×

5. ×

三、1. A

【点拨】500 − 200 = 300（米）

2. B

3. B　A

【点拨】张丽向后转之后面向北方。

4. C

5. B

四、1. 北　100　西　400

2. 南　200　东　300　南　300　西　200

3. 略

4. 略

5. 南　100　东　200

（或东　200　南　100）

6. 军军

五、1. （1）第一种：300 + 200 + 600 = 1100（米）

第二种：450 + 200 + 300 = 950（米）

1100 − 950 = 150（米）

有两种走法，第二种走法较近，近 150 米。

小红从家出发，先向东走 450 米到达甜品店，再从甜品店往南走 200 米到达书店，最后从书店往东南方向走 300 米到达剧院。

（2）小花：300 + 450 = 750（米）

小红：300 + 200 = 500（米）

750 米 > 500 米

小红先到，因为小红和小花同时出发，速度相同，但小红的路程比小花的路程短，所以小红先到。

（3）略

2.



附加题：现在玲玲面向西方。如果想尽快回到原地，可以左转向前走 4 步。

第四单元跟踪检测卷

两位数除以一位数的除法

一、1. 余数　除数

2. 两

3. 5　4

4. 13　16

5. 7　83

6. <　<　=　=

7. 13　28

8. （1）32　64

（2）28

（3）△

二、1. √

2. ×

3. ×

4. ×

5. √

三、1. B

2. B

3. B

【点拨】80 ÷ 6 = 13（个）……2（个）

4. C

5. C

【点拨】55 ÷ 3 = 18（辆）……1（吨）

18 + 1 = 19（辆）

四、1. 30　14　63　24　252　11　21　0

2. 9……3　27　13

3. （1）64 ÷ 4 = 16

（2）84 ÷ 4 = 21

（3）13 × 7 + 6 = 97

4.

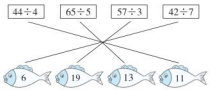

五、×　改正：
$$\begin{array}{r} 7 \\ 6\overline{)46} \\ 42 \\ \hline 4 \end{array}$$

×　改正：
$$\begin{array}{r} 14 \\ 4\overline{)58} \\ 4 \\ \hline 18 \\ 16 \\ \hline 2 \end{array}$$

六、1. 41 ÷ 3 = 13（套）……2（米）

最多可以做 13 套这样的服装。

2. 96 ÷ 3 = 32（元）

68 ÷ 2 = 34（元）

32 元 < 34 元

关注微信公众号“教辅资料站”获取更多学习资料

玩具飞机更便宜。

3. 60 ÷ 4 = 15（个）

84 ÷ 6 = 14（个）

15 个 > 14 个

小芳打字快些。

4. 34 ÷ 6 = 5（艘）……4（人）

5 + 1 = 6（艘）

他们至少需要租 6 艘快艇。

【点拨】剩下的 4 人也要租一艘快艇。

5. 52 ÷ 6 = 8（张）……4（元）

4 ÷ 4 = 1（张）

最多能买 8 张成人票，剩下的钱还可以买 1 张儿童票。

附加题： 70 − 44 = 26（元）

8 − 6 = 2（个）

26 ÷ 2 = 13（元）

13 × 6 + 70 = 148（元）

【点拨】相差 26 元就相差 2 个网球，由此可以求出每个网球的价格。

第五、六单元跟踪检测卷

四则混合运算　年、月、日

一、1. 略

2. 里面的　外面的

3. 3　30

4. 2　29

5. 34 × (5 + 4)

6. 12　7　4　大　31

7. 791

【点拨】99 × 9 − 100 = 791

8. 6　1　教师

9. 139

10. 79　3　42　3

11.

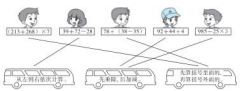

二、1. ×

2. ×

3. ×

4. ×

5. ×

三、1. C

2. B

3. C

4. A

【点拨】100 − 9 × 10 = 10

5. C

四、1. 0　188　73　0　186　10　18　80

2. 3490　54　624　333　162　896

3. 9　129　4 × 9 + 93 = 129

105　17　(105 − 37) ÷ 4 = 17

80　560　7 × (29 + 51) = 560

【点拨】先补充完整，再写出综合算式。

五、



六、1. （180 − 128）÷ 5 = 10（个）……2（元）

剩下的钱最多可以买 10 个汉堡。

2. 下午 6 时是 18 时

下午 5 时 40 分是 17 时 40 分

18 时 − 8 时 30 分 = 9 时 30 分

17 时 40 分 − 7 时 30 分 = 10 时 10 分

10 时 10 分 − 9 时 30 分 = 40 分

欧丽的爸爸每天的工作时间更长，长 40 分。

【点拨】考点为 24 时计时法，注意时间的换算。

3. 18 × 7 − 8 = 118（μg/m³）

4. （1）38 + 38 × 2 = 114（人）

（2）7 时 − 25 分 = 6 时 35 分

附加题： 星期四

【点拨】3 月份有 5 个星期五，4 个星期六说明 3 月 31 日是星期五。20 ÷ 7 = 2（周）……6（天），则这年的 4 月 20 日是星期四。

第七、八单元跟踪检测卷

周长　分数的初步认识

一、1. $\frac{1}{4}$　$\frac{2}{6}$　$\frac{1}{2}$　$\frac{5}{9}$

2. $\frac{1}{100}$

3. 20　2

4. 40

5. 3　9

6. 30 cm

【点拨】先求宽，再求周长。

7. 20

【点拨】正方形游泳池走一圈就是这个正方形的周长，注意题目中是两圈。

8. （1）<　>　>　=　<　<　>　>

（2）=　=

二、1. √

2. ×

3. ×

4. ×

5. ×

关注微信公众号“教辅资料站”获取更多学习资料

三、1. B

2. C

3. A

4. C

【点拨】把一个正方形拉成一个平行四边形后，四条边的长度没变，则四条边的长度和不变，即它的周长不变。

5. A

四、1. 31　147　185　29　$\frac{5}{9}$　$\frac{5}{6}$　$\frac{5}{6}$　0

2. $\frac{2}{8}+\frac{3}{8}=\frac{5}{8}$

3. $21+23+27=71$（厘米）

$17+14+14+26=71$（分米）

$(10+8)\times2=36$（厘米）

4. 14　14　图略

五、1. $\frac{2}{6}<\frac{3}{6}$

洋洋骑得快。

2. （1）$14+6\times2=26$（米）

（2）$\frac{4}{9}+\frac{2}{9}=\frac{6}{9}$

（3）略

附加题：小长方形宽：$24\div2\div2=6$（厘米）

小长方形周长：$(24+6)\times2=60$（厘米）

周长和：$60\times2=120$（厘米）

期末总复习

模块过关卷　数与代数

一、1. 克　千克　吨　克

2. 5

【点拨】3000 千克 = 3 吨

3. 三　四

4. 0　这个数本身

5. 300　2400

6. =　<　>　<　>　>　>　>

7. 26

【点拨】$80-18\times3=26$（页）

8. 3000　3　2

9. （1）65　60　（2）162　486

（3）12　6

10. 1　2

二、1. B

2. B

3. C

4. C

5. A

6. A

【点拨】$48\div5=9$（组）……3（颗）

第 3 颗珠子是黑色，则第 48 颗珠子也是黑色。

三、×　$30+40\times6$

$=30+240$

$=270$

×　$80+40\div5$

$=80+8$

$=88$

四、1. 30　44　1200　36　129　280　7……3　11

2. 4360　1510　2940　17　25　14……1

3. （1）$356\times3-73=995$

（2）$78\div(6-3)=26$

五、1. 4000 千克 = 4 吨

$5+4=9$（吨）

9 吨 < 10 吨

这辆车能安全地通过这座大桥。

【点拨】注意单位换算。

2. $132\times3+132=528$（元）

3. $89\div4=22$（本）……1（本）

每个班级可分得 22 本，还剩 1 本。

4. $56\div6=9$（张）……2（人）

$9+1=10$（张）

至少需要 10 张桌子。

5. $55+12\times2=79$（元）

$12\times7=84$（元）　$79<84$

批发 1 件，零买 2 瓶比较合算。

6. $50\times2-40=60$

$40+60\div2=70$

附加题：$(54-3)\div3=17$（张）

$17+3=20$（张）

甲有 20 张牌，乙和丙各有 17 张牌。

期末总复习

模块过关卷　图形与几何

一、1. （长 + 宽）× 2　边长 × 4

2. 周长

3. 24

4. 20

【点拨】正方形的边长 = 周长 ÷ 4

5. 10

【点拨】先求出长方形的周长，也就是正方形的周长，再求正方形的边长。

6. 北　南　西　东

7. 西　东　南　北

8. 西　北　西北　东北

9. 西南

10. （1）南　（2）西北

（3）医院　（4）英才小学

二、1. C

2. B

3. C

4. A

关注微信公众号“教辅资料站”获取更多学习资料

三、1. 从上到下：20 cm　3 dm　7 cm　8 dm

2. （1）$(6+9)\times2=30$（厘米）

$6\times4=24$（厘米）

（2）$(30+30+30)\times2=180$（厘米）

（3）$8\times4=32$（厘米）

四、1. 火车站　汽车站　10

2. 西北　公园　南

五、1. $(8+6)\times2=28$（米）

2. $12\times4=48$（分米）

3. $(5+3)\times2=16$（米）

$16\div4=4$（米）

4. $32\div2-11=5$（厘米）

附加题：$(2\times15+1\times15)\times2=90$（厘米）

【点拨】先观察图形找规律，第一层有一个长方形，第二层有两个长方形，第三层有三个长方形……则第十五层有十五个长方形。求所得图形的周长可以转化为求一个长是 $2\times15=30$（厘米），宽是 $1\times15=15$（厘米）的长方形的周长。

期末总复习

仿真模拟卷（一）

一、1. 5　7000　48　1000　1　3

2. 3　$\frac{4}{5}$

3. 一

【点拨】6 月有 30 天，四周多两天，因为有 5 个星期二，4 个星期三，所以 30 日就是星期二，由此倒着推算，6 月 1 日为星期一。

4. 8　30

5. ＞　＝　＜　＜　＞　＜

6. 8

【点拨】此题运用估算的方法。

7. 17

8. 140

【点拨】2011 年是平年，2 月只有 28 天。

9. 12

10. 6　24

11. （1）81

（2）3

二、1. ×

2. ×

3. √

4. ×

5. √

三、1. A

2. A

3. B

4. C

【点拨】解本题的关键是理解从一楼到三楼走了 2 层，从一楼到五楼走了 4 层。

5. C

四、1. 5600　0　22　468　1000　10　78　52

$\frac{2}{5}$　1　$\frac{3}{5}$　264

2. 22……1　1842　1200　2072

3. 1　528　15　170

五、1. 东　北

2. 西南　西

六、1. $24\times9+78=294$（个）

2. $(28+15)\times2\times4=344$（米）

3. $(23+26+1)\times8=400$（元）

【点拨】张老师也要买票。

4. $200-15\times7=95$（只）

5. 下午 4 时 = 16 时

$16-10=6$（时）

$90\div6=15$（个）

【点拨】要用 24 时计时法将时间统一才能相减。

6. $78\div6=13$（棵）

$84\div7=12$（棵）

13 棵 ＞ 12 棵

甲组平均每人种的树多。

附加题：甲：第二层，教师。

乙：第一层，工程师。

丙：第三层，医生。

丁：第四层，工人。

【点拨】本题考查的是逻辑分析能力。从第一个已知条件分析，丁住第四层，甲住在乙、丙中间，即第二层，乙住的楼层最低，为第一层，则丙住第三层。而根据第二个已知条件又得知，工程师住第一层，医生住在教师和工人中间，即第三层。然后逐步得出结论。

期末总复习

仿真模拟卷（二）

一、1. 克　吨　克　千克

2. 4000　8

3. ＝　＞　＜　＜　＝　＞

4. 西

5. 24

6. 二

【点拨】2020 年是闰年，2 月有 29 天，2 月 14 日至 4 月 14 日，中间经过了 $15+31+14=60$（天），也就是 8 周多 4 天，从星期五开始往后数 4 天为星期二。

7. 13

关注微信公众号“教辅资料站”获取更多学习资料

8. 3　87

9. $\frac{1}{4}$　$\frac{3}{8}$　$\frac{1}{3}$　$\frac{4}{6}$

10. $90-86\div2=47$

11. （1）6　（2）25

二、1. ×

2. ×

3. ×

4. √

5. ×

三、1. A

2. C

3. B

四、1. 69　11　210　0　1000　11　3……2

120　0　1　$\frac{2}{9}$　$\frac{1}{4}$

2. 2814　8……2　12……6

3. 645　62　123

五、略

六、1. 南　东　东南　东北

2. 西南　西北　西　西南

七、1. $3+4+2=9$（个）

$80\div9=8$（组）……8（个）

第80个气球是红色。

2. 下午3时=15时

$15-7=8$（时）

$45\times8=360$（km）

3. $12\div3=4$（段）

$4-1=3$（次）

$13\times3=39$（分）

【点拨】4段只需要锯3次就可以了。

4. 1千克=1000克

$1000-550=450$（克）

$450\times2=900$（克）

$1000-900=100$（克）

瓶里原来有蜂蜜900克，瓶重100克。

【点拨】先求出一半蜂蜜的质量再进行计算。

5. 把79千克看作80千克。

$80\div4=20$（千克）

【点拨】本题采用估算法。

6. 长：$80+20=100$（米）

宽：$40+20=60$（米）

$(100+60)\times2=320$（米）

附加题：（200 + 120）× 2 + 50 + 50 = 740（厘米）

期末总复习

仿真模拟卷（三）

一、1. 5000　4000　3　24　24　80

2. 3040克<3004千克<30吨400克<30吨40千克

3. 西南　西北

4. 7

5. 12

6. 4　四　$\frac{1}{4}$

7. <　<　<　=　>　>

8. 100

9. 5，6，7，8，9

1，2，3，4

10. 黄　绿

二、1. √

2. ×

3. ×

4. ×

5. √

三、1. A

2. C

3. C

4. B

5. A

四、1. 720　15　450　0　880　16　0　1

2. 19　1300　17……2　3549

3. （1）$(147+28)\times8=1400$

（2）$23\times5-45=70$

五、$(4+2)\times2=12$（cm）

$20\times2+7\times2+5\times4=74$（cm）

六、1. $68\times7=476$（千克）

500千克>476千克

$500-476=24$（千克）

500千克草够它们吃一周，还剩24千克。

【点拨】一周等于7天。

2. $32\times8+25=281$（个）

3. $90\div3=30$（米）

$(90+30)\times2\times2=480$（米）

4. $18\times8=144$（元）

$18\div6\times40=120$（元）

144元>120元

方式二更省钱。

5. 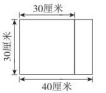

$40-30=10$（厘米）

$(30+10)\times2=80$（厘米）

附加题：$16\times3\div(3+1)=12$（元）

$16-12=4$（元）

关注微信公众号“教辅资料站”获取更多学习资料

好卷

小卷领先

XIAO JUAN LING XIAN



- **周测**培优卷（10套）
- **专项**提升卷（4套）
- **题型**突破卷（6套）

3 数学 年级（上）（XS版）

关注微信公众号“教辅资料站”获取更多学习资料

目录



周测培优卷

1 认识克、千克、吨 …… 01
2 一位数乘两位数 …… 03
3 一位数乘三位数、问题解决 …… 05
4 辨认方向 …… 07
5 两位数除以一位数 …… 09
6 探索规律、问题解决 …… 11
7 四则混合运算 …… 13
8 年、月、日　24 时计时法 …… 15
9 认识周长　长方形、正方形的周长 …… 17
10 分数的初步认识 …… 19

专项提升卷

1 一位数乘两、三位数及应用 …… 21
2 两位数除以一位数及应用 …… 23
3 四则混合运算及应用 …… 25
4 周长、分数的认识及应用 …… 27

题型突破卷

1 填空题（一） …… 29
2 填空题（二） …… 31
3 计算题 …… 33
4 图形题 …… 35
5 应用题（一） …… 37
6 应用题（二） …… 39

参考答案及点拨 …… 41

微信公众号
教辅资料站

关注微信公众号“教辅资料站”获取更多学习资料

周测培优卷 1
认识克、千克、吨

班级_____ 姓名_____ 得分_____ 时间：40分钟 满分：60分

一、填空。（第3题4分，其余每空1分，共16分）

1. 在（　　）里填上合适的数。

1000 g = （　　）kg

（　　）吨 = 4000 kg

5000 g = （　　）kg

2 kg = （　　）g

8 吨 = （　　）kg

2. 在◯里填上“ > ”“ < ”或“ = ”。

80 克◯8 千克

400 克◯4 千克

2 吨◯2000 千克

5100 千克◯5000 千克

3. 按从轻到重的顺序排列。

4000 g　4 吨　40 kg　440 g

_____

4. 在（　　）里填上合适的单位。

一只烤羊约重 20（　　）。

一盒儿童牙膏重 60（　　）。

一头鲸的体重是 46（　　）。

二、判断。（每题1分，共4分）

1. 弟弟的体重是 45 g。（　　）
2. 一个西红柿约重 10 kg。（　　）
3. 一匹马约重 350 kg。（　　）
4. 3 吨铁比 3000 千克棉花重。（　　）

三、选择。（每题1分，共5分）

1. 下面单位中，不是质量单位的是（　　）。

A. 克　　B. 千米　　C. 吨

2. 一个水杯约重（　　）。

A. 6 g　　B. 6 kg　　C. 60 g

3. 一只长颈鹿约重 900（　　）。

A. 克　　B. 千克　　C. 吨

4. 玩具店的一辆赛车模型约重 170（　　）。

A. 克　　B. 千克　　C. 吨

5. 1 个鸡蛋约重 50 g，6 个鸡蛋约重（　　）。

A. 300 g　　B. 300 kg　　C. 30 g

四、连一连。（4分）

 　800克

 　200克

 　4千克

 　2吨

五、计算。（7分）

500 g + 500 g =

6000 kg − 2000 kg =

7000 g + 3 kg =

关注微信公众号“教辅资料站”获取更多学习资料

1 吨 − 200 千克 =

2 吨 − 700 千克 = （　　）千克

6000 千克 + 4000 千克 = （　　）千克 = （　　）吨

六、解决问题。（每题 4 分，共 24 分）

1. 大米和面粉一共卖了多少吨？



2. 一台扫地机重 2500 克，4 台扫地机共重多少千克？

3. 称一称，一共有多重？



4. 芳芳在学校过集体生日。



每个小组可以分到多少克糖果？

5. 一堆水泥重 9 吨，一辆  第一次运走 3500 千克，第二次运走 2500 千克，现在还剩多少吨没有运走？

6. 水果店将运进一些水果。

名称	 苹果	 桃子	 香蕉	 葡萄
质量（千克）	700	250	600	350

（1）水果店运进的苹果比葡萄多多少千克？

（2）一辆载重 2 吨的货车能一次把这些水果运完吗？

关注微信公众号“教辅资料站”获取更多学习资料

周测培优卷 2

一位数乘两位数

班级_____ 姓名_____ 得分_____ 时间：40分钟 满分：60分

一、填空。（每空1分，共18分）

1. 笔算：21×4=（　　）

$$\begin{array}{r} 2\ 1 \\ \times\quad 4 \\ \hline 8\ 4 \end{array}$$

8 4 ⟶（　　）×（　　）

⟶（　　）×（　　）

2. 计算45×2，可以这样想：把45看作40+5，40×2=（　　），5×2=（　　），再把两次乘得的积相加，即（　　）+（　　）=（　　）。

3. 每个花篮50元，求买3个同样的花篮需要多少钱。（　　）。（列乘法算式）

4. 25个10是（　　），25的4倍是（　　）。

5. 一本童话书有200页，小宁每天读24页，读了6天还剩（　　）页。

6. 估算：52×4的积大约是（　　），73×6的积大约是（　　）。

7. 不计算，分一分。

11×6	37×4	50×2
15×2	34×3	14×0
82×1	42×2	7×26

积是两位数　　积是三位数

二、判断。（每题1分，共3分）

1. 7乘8个十得56个十。（　　）
2. 两个因数相乘，因数末尾有几个0，积的末尾就有几个0。（　　）
3. 4个32相加，列式是4×32。（　　）

三、选择。（每题1分，共3分）

1. 如果$A\times B=B$（B不等于0），则A是（　　）。

A. 0　　B. 1

C. 无法判断

2. 积是三位数的算式是（　　）。

A. 25×3　　B. 49×2

C. 34×5

3. 与96×4的积不相同的是（　　）。

A. 64×6　　B. 48×8

C. 69×4

四、计算。（第1题6分，第2题8分，第3题4分，共18分）

1. 直接写得数。

30×2=　　11×4=　　5×70=

70×8=　　24×5=　　6×90=

2. 用竖式计算。

4×27=　　78×7=

关注微信公众号“教辅资料站”获取更多学习资料

36 × 8 =　　65 × 4 =

3. 下面的计算对吗？请把不对的改正过来。

$$\begin{array}{r} 24 \\ \times\ \ 2 \\ \hline 46 \end{array}$$（　　）

$$\begin{array}{r} 35 \\ \times\ \ 4 \\ \hline 120 \end{array}$$（　　）

五、解决问题。（第 4 题 6 分，其余每题 4 分，共 18 分）

1. 学校组织体育竞赛活动，李老师采购了 6 箱矿泉水，每箱 28 元，一共花费多少元？

2. 小明的奶奶今年多少岁？

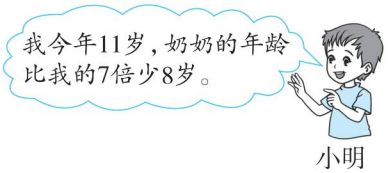

3. 张明家养的牛每天要吃 88 千克草，准备 600 千克草够这些牛吃一周吗？如果不够，还差多少千克？

4. 东城小学的孩子到“爸爸的农庄”体验生活，他们正在举行挖红薯比赛。

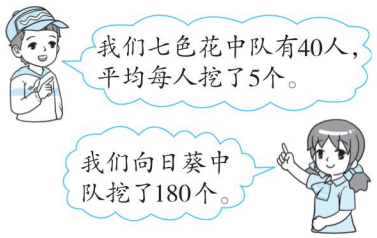

（1）七色花中队一共挖了多少个红薯？

（2）你还能提出什么问题？并解答。

荣德基好卷

关注微信公众号“数辅资料站”获取更多学习资料

专项提升卷 1 一位数乘两、三位数及应用

班级_____ 姓名_____ 时间：40分钟

提升点1：因数和积的关系

1. 判断。

（1）一位数乘三位数，积只能是三位数。（　　）

（2）两位数乘一位数，两位数十位上的数与一位数乘得的积满几十，就要向个位进几。（　　）

（3）一个因数的中间有几个0，积的中间也有几个0。（　　）

提升点2：计算

2. 看谁算得快。

70 ×6 =　　3 ×230 =

5 ×19 =　　400 ×8 =

3. 用竖式计算。

132 ×3 =　　34 ×2 =

320 ×6 =　　96 ×5 =

407 ×4 =　　988 ×8 =

4. 先判断，再改正。

```
  1 6 2
×     4
-------
4 2 4 8
```
（　　）改正：

```
  3 5 0
×     7
-------
2 1 3 5
```
（　　）改正：

5. 把下面的算式按得数从小到大排列。

580 ×2　37 ×3　256 ×4　705 ×8

提升点3：估算

6. 估算。

（1）周宇家一个月节约用水402千克，5个月大约能节约用水（　　）千克。

（2）要使247 ×□的积是三位数，□内最大可填（　　），要使积是四位数，□内最小可填（　　）。

（3）一个两位数乘9，所得的积可能是（　　）位数，也可能是（　　）位数。

提升点4：一位数乘两位数、一位数乘三位数的应用

（一）乘法问题

7. 一台按摩器售价716元，买5台这样的按摩器大约要花多少元？

关注微信公众号“教辅资料站”获取更多学习资料

8. 某电影院有6个影厅，每个影厅能坐208人。这个电影院最多可容纳观众多少人？

9. 洗衣液每瓶48元，妈妈买了3瓶，一共花了多少元？

（二）乘加、乘减问题

10. 小英去游乐场花了13元，雷雷和小李花的总钱数比小英的3倍还要多2元，雷雷和小李共花了多少元？

11. 高菲今年15岁，爸爸的年龄比她的3倍少6岁。



高菲

（三）估算问题

12. 购物节到了，由于包裹数量猛增，某公司快递员每天要送出6000件包裹，请你估算一下，快递员叔叔们能完成任务吗？

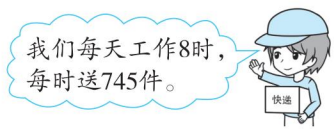

13. 采购员要采购西红柿400千克。现已采购了西红柿6筐，每筐56千克，请你估算一下，这些西红柿够吗？

荣德基好卷

关注微信公众号“数辅资料站”获取更多学习资料

班级_____ 姓名_____ 时间：40分钟

提升点1：两位数除以一位数的计算

1. 用竖式计算。

90 ÷ 5 =　　73 ÷ 6 =

48 ÷ 4 =　　38 ÷ 2 =

67 ÷ 2 =　　98 ÷ 3 =

2. 先判断，再改正。

```
  2 3
3 ) 8 9
    6
    9
    9
    0
```

改正：

（　　）

3. 列式计算。

（1）45里面有多少个5？

（2）把84平均分成4份，每份是多少？

提升点2：两位数除以一位数的应用

（一）平均分

4. 有64个同学打乒乓球。如果他们都参加单打，可以分为几组？如果他们都参加双打，可以分为几组？

5. 王老师带了97元钱，买了2个足球后，剩下的钱还能买几个乒乓球？



41元/个



2元/个

6. 有65张桌子，平均分给3个班，每班能分到几张，还剩几张？

关注微信公众号“教辅资料站”获取更多学习资料

7. 学校原有 17 个手绘风筝，又买来 54 个，如果平均分给 7 个绘画兴趣小组，每组大约分得多少个？

8. 某印刷厂要装订 860 本练习册，已经装订了 800 本，剩下的要 2 天完成，平均每天还要装订多少本？

（二）“最多”“至少”

9. 有 26 位数学老师乘出租车去参加培训，每辆出租车最多坐 4 人，至少需要多少辆出租车？

10. 苏丽有 82 元钱，打算请同学一起去看电影，每张电影票 4 元，苏丽最多能请多少名同学看电影？

（三）最优方案

11. 3 位老师带领 55 名学生去划船，大船每条能坐 5 人，每条租金 9 元；小船每条能坐 4 人，每条租金 8 元。怎样租船比较合算？

荣德基好卷

关注微信公众号“教辅资料站”获取更多学习资料

题型突破卷 1 填空题(一)

班级_____ 姓名_____ 时间：40分钟

专项1：克、千克、吨的认识

1. （　　）枚  大约重10克；（　　）袋这样的 

重1千克； 

重25千克，（　　）袋这样的大米重1吨。

2. 一头牛的质量是300千克，一头猪的质量是100千克，（　　）头牛和（　　）头猪的质量合起来是1吨。

3. 在括号里填上合适的单位名称。


重8（　　）


重30（　　）


限重30（　　）

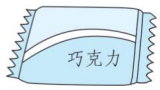

重43（　　）


重5000（　　）


重60（　　）

4. 看图填空。

（1） 
（　　）kg

（2） 
（　　）kg

5. 5000 kg =（　　）吨

10 kg =（　　）g

1 kg =（　　）g + 999 g

4吨 − 800 kg =（　　）kg

3200 g =（　　）kg（　　）g

840 kg + 1160 kg =（　　）吨

6. 在◯里填上“>”“<”或“=”。

2999 kg ◯ 3吨

1500 g ◯ 15 kg

1吨 ◯ 1001 kg

2100 g ◯ 2吨

2100 g − 1000 g ◯ 1 kg

4吨 + 6000 kg ◯ 11吨 − 1000 kg

专项2：乘、除法及四则混合运算

7. □□×8，积可能是（　　）位数，也可能是（　　）位数。

8. 最大的三位数与0相乘得（　　），最小的两位数与1的积是（　　），最大的一位数除最大的两位数，商是（　　）。

9. 口算400×6时，可以先算（　　）×（　　）=（　　），再在积的后面添上（　　）个0。

关注微信公众号“教辅资料站”获取更多学习资料

10. 口算 32×3 时，可以先算（　　）×（　　）=（　　），再算（　　）×（　　）=（　　），最后算（　　）+（　　）=（　　）。

11. 125×8 的积末尾有（　　）个 0；5×401 的积中间有（　　）个 0。

12. 要使 341×□的积是三位数，□内最大填（　　），要使积是四位数，□内最小填（　　）。

13. □6÷5，如果商是一位数，□里可以填（　　），如果商是两位数，□里最小填（　　）。

14. 2□0×5，要使积的末尾有 2 个 0，□里可以填（　　）；要使积的末尾有 3 个 0，□里可以填（　　）。

15. □÷□=6……7 中除数最小是（　　），此时被除数是（　　）。

专项 3：辨认方向

16. 填空。

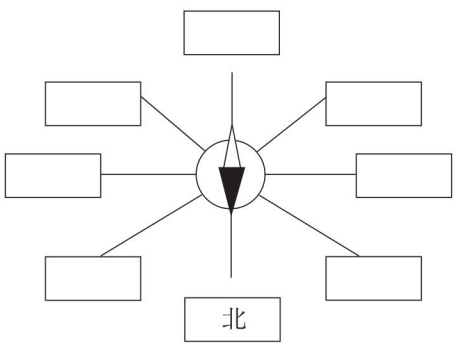

17. 熊大家在光头强家的东北方，光头强家在熊大家的（　　）方。

18. 东北风是从（　　）方向吹向（　　）方向的风。今天刮的是南风，五星红旗向（　　）飘。

19. 小红面向西南方，她的左边是（　　）方向，后面是（　　）方向。

20. 李丽上学先向东走，再向西北方向走，那么她回家要先向（　　）方向走，再向（　　）走。

21. 丁丁面向西面，如果他向右转 3 次，那么他面向的是（　　）面。

22. 帮助小朋友找家。

（1）欢欢从家出发，先向北走，再往东走，到游乐场。

（2）冰冰从游乐场出发，先往北走，再往西走，就回到家了。

（3）丽丽从家出发，先往西走，再往南走，到游乐场。

（4）浩浩从游乐场出发，先往南走，再往东走，就回到家了。

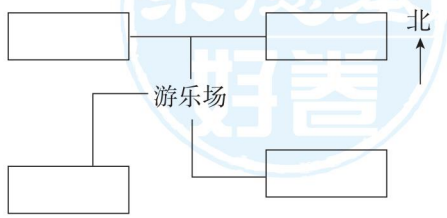

关注微信公众号“教辅资料站”获取更多学习资料

荣德基 好卷

参考答案及点拨

3年级 数学 上（XS版）（小卷）

周测培优卷 1

认识克、千克、吨

一、1. 1　4　5　2000　8000
2. <　<　=　>
3. 440 g < 4000 g < 40 kg < 4 吨
4. 千克　克　吨

二、1. ×　2. ×　3. √　4. ×

三、1. B　2. C　3. B　4. A　5. A

四、略

五、1000 g 或 1 kg　4000 kg 或 4 吨　10 kg 或 10000 g　800 千克　1300　10000　10

六、1. 2000 千克 = 2 吨　2 + 4 = 6（吨）
2. 2500 + 2500 + 2500 + 2500 = 10000（克）
10000 克 = 10 千克
3. 2 × 6 = 12（kg）
4. 30 ÷ 6 = 5（千克）　5 千克 = 5000 克
5. 9 吨 = 9000 千克　9000 − 3500 − 2500 = 3000（千克）3000 千克 = 3 吨
6. （1）700 − 350 = 350（千克）
（2）700 + 250 + 600 + 350 = 1900（千克）
2 吨 = 2000 千克　2000 千克 > 1900 千克
能一次运完。

周测培优卷 2

一位数乘两位数

一、1. 84　4　1　4　20
2. 80　10　80　10　90
3. 50 × 3 = 150（元）
4. 250　100
5. 56
6. 200　420
7. 积是两位数：11 × 6，15 × 2，82 × 1，42 × 2
积是三位数：37 × 4，50 × 2，34 × 3，7 × 26

二、1. √　2. ×　3. √

三、1. B　2. C　3. C

四、1. 60　44　350　560　120　540（竖式略）
2. 108　546　288　260
3. （×）
$$\begin{array}{r} 24 \\ \times\ \ 2 \\ \hline 48 \end{array}$$
（×）
$$\begin{array}{r} 35 \\ \times\ \ 4 \\ \hline 140 \end{array}$$

五、1. 28 × 6 = 168（元）
2. 11 × 7 − 8 = 69（岁）
3. 88 × 7 = 616（千克）
616 千克 > 600 千克
616 − 600 = 16（千克）
准备 600 千克草不够这些牛吃一周，还差 16 千克。
4. （1）40 × 5 = 200（个）
（2）略

周测培优卷 3

一位数乘三位数、问题解决

一、1. 0　任何数
2. 900
3. （1）6 个一　个　（2）0 个十　十
（3）9 个百　百
4. 4000　3000　3
【点拨】注意单位换算。
5. =　>　>　=
6. 400　2400　小
7. 505 × 5 = 2525
8. 1，2，3　4，5，6，7，8，9

二、1. B　2. A　3. A　4. C

三、1. 1000　870　646　4854　3570　0　320　712
2. 4280　2340　2015　1000　1908　8163
3. （1）8 × 375 = 3000
（2）120 × 6 = 720（元）

四、1. 296 接近 300，9 接近 10，300 × 10 = 3000（米）3000 米 = 3 千米
2. 120 × 5 − 198 = 402（户）
3. 143 × 7 = 1001（张）　1001 张 > 1000 张
能装下。

周测培优卷 4

辨认方向

一、1.

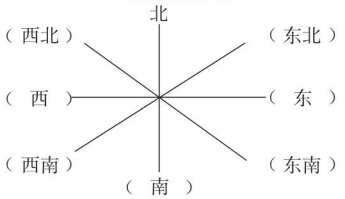

2. 西　东　南　北　3. 东
4. 西北　东南　5. 东　西
6. 北　西北　北　西北

二、1. ×　2. ×　3. √　4. √　5. ×

三、1. C　2. C　3. B　4. A

四、1. （1）小鹿　东　（2）东　南
（3）东南　东南
（4）小猪从家出发，一直向东南方走到小猴家最近。
（5）40 + 70 = 110（米）
2. （1）东　（2）西北　（3）西南
（4）东北　（5）老虎　狮子
（6）南　北
3. （1）布店　东　（2）东北　东北
（3）东　东

周测培优卷 5

两位数除以一位数

一、1. 15　20　2. 17　17　2
3. 8　98　【点拨】1. 余数必须比除数小；
2. 商 × 除数 + 余数 = 被除数
4. =　<　>　=
5. 12　49　26　6. 红　7

二、1. C　2. C　3. A　4. C

关注微信公众号“教辅资料站”获取更多学习资料

三、1. 12　14　11

2. 14　19　19　8……2　41　9……2

3. （×）　改正：
$$\begin{array}{r} 21 \\ 4\overline{)87} \\ 8 \\ \hline 7 \\ 4 \\ \hline 3 \end{array}$$
（×）　改正：
$$\begin{array}{r} 10 \\ 6\overline{)64} \\ 6 \\ \hline 4 \end{array}$$

四、1. 78 ÷ 6 = 13（页）

2. 93 ÷ 8 = 11（张）……5（位），
11 + 1 = 12（张）　至少需要准备 12 张桌子。

3. 39 + 46 = 85（人），85 ÷ 5 = 17（组）

4. 47 ÷ 6 = 7（个）……5（双）
最多能装满 7 个盒子。

5. 98 ÷ 4 = 24（片）……2（片）
每个小组分得 24 片，还剩 2 片。

周测培优卷 6

探索规律、问题解决

一、1. 18　12　6　2. 5　0　6　4

3. 11　【点拨】99 ÷ 9 = 11

4. 5　4

5. 19

6. 8　1

7. 15　37

8. （1）33　（2）81　（3） 

二、1. B　2. B　3. B　4. C

三、1. 12　42　13　15　24　23

2. 18……3　14　21……1　40……1

3. 32
【点拨】找规律，横着看，每一行的规律都是依次乘 4。

四、略

五、1. 87 ÷ 2 = 43（套）……1（张）
最多能制作出 43 套道具。

2. 32 + 23 = 55（人）
55 ÷ 5 = 11（人）

3. 96 ÷ 8 = 12（排）

4. （1）32 ÷ 6 = 5（组）……2（杯）
第 32 杯是黄茶。
【点拨】一组有 6 杯茶，32 里面有 5 个 6，刚好数完 30 杯，余下的 2 杯从头开始数，所以第 32 杯是黄茶。
（2）74 ÷ 6 = 12（组）……2（杯），
12 × 1 + 1 = 13（杯）
【点拨】一组有 6 杯茶，74 里面有 12 个 6，每组一杯绿茶，就是 12 杯。数完 72 杯，余下的 2 杯从头开始数，还有 1 杯绿茶，所以绿茶有 13 杯。

周测培优卷 7

四则混合运算

一、1. 从左往右依次计算　小括号里面的

2. （87 − 24）÷ 9 = 7

3. 25

4. >　=　<　>

5. （1）+　−　×　（2）÷　×　÷
（3）÷　+　÷　（4）×　−　÷
【点拨】（1）（2）（4）答案不唯一。

二、1. ×　2. ×　3. ×　4. ×

三、1. C　2. B　3. C　4. B

四、1. 294　35　21　175　75　15……3

2. ×　改正：　30 + 40 × 6
= 30 + 240
= 270
√

3. （1）211 − 32 × 6 = 19
（2）540 ÷（47 − 38）= 60

五、1. 60 × 3 + 25 = 205（元）

2. （27 + 29）÷ 8 = 7（人）

3. （1）78 × 2 + 350 + 750 = 1256（元）
（2）750 − 350 × 2 = 50（元）
（3）600 −（78 × 3 + 350）= 16（元）

周测培优卷 8

年、月、日　24 时计时法

一、1. 12　365　366　2. 5　1　元旦　3. 87

4. 9 时 30 分
【点拨】晚上 9：30 是 21 时 30 分，24 时 − 21 时 30 分 = 2 时 30 分，2 时 30 分 + 7 时 = 9 时 30 分。

5. 24　0　1

6. 8　31　7　1

7. 9 时 15 分　9 时 25 分

二、1. ×　2. ×　3. ×　4. ×　5. ×

三、略

四、1. C　2. B　3. C　4. B　5. C

五、1. 35　2　5　2　4

2. 7 时　22 时 30 分　4 时 15 分

六、1. 155 分 = 2 时 35 分
19 时 30 分 + 2 时 35 分 = 22 时 5 分

2. 366 ÷ 7 = 52（星期）……2（天）
2020 年的 12 月 21 日是星期一。
【点拨】2020 年是闰年，2019 年的 12 月 21 日到 2020 年的 12 月 21 日有 366 天。366 天有 52 个星期余 2 天，从星期六往后数 2 天，就是星期一。

3. （1）10 时 20 分 − 9 时 50 分 = 30 分
（2）14 时 35 分 − 45 分 = 13 时 50 分

4. 晚上 6 时是 18 时，24 − 18 + 13 = 19（时）
【点拨】解决跨天的问题，应当天的时间当天结算。

周测培优卷 9

认识周长　长方形、正方形的周长

一、略

二、1. 204
【点拨】先求周长，再求 3 圈的长。

2. 80

3. 6　4. 9　5. 40

6. （1）52　8　30　30

关注微信公众号“教辅资料站”获取更多学习资料

（2）320　20　800　50

三、1. ×　2. ×　3. ×　4. ×

四、1. C　2. B

3. A

【点拨】剪图前后，周长并未发生变化。

4. B

五、1. $6\times6=36$（m），$13\times4=52$（dm），

$(47+28)\times2=150$（dm）

2. 略

六、1.

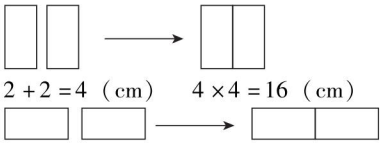

$2+2=4$（cm）　$4\times4=16$（cm）

$4+4=8$（cm）　$(8+2)\times2=20$（cm）

拼成的图形周长是 16 cm 或 20 cm。

2. $120\div2=60$（米），$60\div4=15$（米）

3. $34+15\times2=64$（m）

【点拨】有一条长边靠墙，不需要围篱笆。

4. $26\div2=13$（厘米），$12+1=13$（厘米），$11+2=13$（厘米），$10+3=13$（厘米），$9+4=13$（厘米），$8+5=13$（厘米），$7+6=13$（厘米）。

可以摆出 6 个周长为 26 厘米的长方形。长和宽分别为：12 厘米和 1 厘米，11 厘米和 2 厘米，10 厘米和 3 厘米，9 厘米和 4 厘米，8 厘米和 5 厘米，7 厘米和 6 厘米。

周测培优卷 10

分数的初步认识

一、$\frac{5}{8}$　$\frac{1}{3}$　$\frac{5}{6}$　$\frac{4}{9}$

二、1. 7　5　7　5

2. $\frac{4}{21}$

3. 八　一　$\frac{1}{8}$　6　$\frac{1}{8}$　$\frac{6}{8}$　八分之六

4. 3　60

5. $\frac{8}{13}$

【点拨】已知分数的分子比分母小 5，所以分子为 $(21-5)\div2=8$，分母为 $8+5=13$。

6. >　>　>　<　=　<

7. $\frac{15}{29}$　$\frac{8}{29}$　$\frac{6}{29}$

三、1. ×　2. ×　3. √

四、1. A　2. B　3. B

五、1. $\frac{3}{6}$　$\frac{2}{4}$　$\frac{9}{15}$　$\frac{5}{8}$　$\frac{4}{7}$　$\frac{4}{9}$

2. $\frac{3}{8}+\frac{2}{8}=\frac{5}{8}$

六、1. $\frac{7}{15}-\frac{3}{15}=\frac{4}{15}$　$\frac{4}{15}+\frac{7}{15}=\frac{11}{15}$

2. （1）$\frac{2}{10}+\frac{4}{10}=\frac{6}{10}$

（2）$\frac{3}{10}-\frac{2}{10}=\frac{1}{10}$

（3）$\frac{2}{10}+\frac{3}{10}+\frac{4}{10}=\frac{9}{10}$　$\frac{9}{10}<1$

$1-\frac{9}{10}=\frac{1}{10}$

这个生日蛋糕没吃完，还剩这个蛋糕的$\frac{1}{10}$。

（4）略

期末总复习

专项提升卷 1　一位数乘两、三位数及应用

1. （1）×　（2）×　（3）×

2. 420　690　95　3200

3. 396　68　1920　480　1628　7904

4. ×

$$\begin{array}{r} 162 \\ \times\quad 4 \\ \hline 648 \end{array}$$

×

$$\begin{array}{r} 350 \\ \times\quad 7 \\ \hline 2450 \end{array}$$

5. $37\times3<256\times4<580\times2<705\times8$

6. （1）2000　（2）4　5　（3）两　三

7. 把 716 看作 700。$700\times5=3500$（元）

8. $208\times6=1248$（人）

9. $48\times3=144$（元）

10. $13\times3+2=41$（元）

11. $15\times3-6=39$（岁）

$39-15=24$（岁）

【点拨】先求爸爸的年龄。年龄差不随年龄的增长而变化。

12. 把 745 看作 750。

$750\times8=6000$（件）

所以 $745\times8<6000$，快递员叔叔们不能完成任务。

【点拨】把 745 看作 750，估多了才刚好能送完，而实际快递员叔叔们每时送的包裹数量并没有达到750 件，所以快递员叔叔们不能完成任务。

13. 把 56 看作 60。$60\times6=360$（千克）

360 千克 < 400 千克

这些西红柿不够。

专项提升卷 2　两位数除以一位数及应用

1. 18　12……1　12　19　33……1　32……2

2. ×

$$\begin{array}{r} 29 \\ 3\overline{)89} \\ 6 \\ \hline 29 \\ 27 \\ \hline 2 \end{array}$$

3. （1）$45\div5=9$　（2）$84\div4=21$

4. 单打：$64\div2=32$（组）

双打：$64\div4=16$（组）

5. $97-41\times2=15$（元）

$15\div2=7$（个）……1（元）

剩下的钱还能买 7 个乒乓球。

6. $65\div3=21$（张）……2（张）

每班能分到 21 张，还剩 2 张。

关注微信公众号“数辅资料站”获取更多学习资料

7. $17+54=71$（个）
把 71 看作 70。$70\div7=10$（个）
8. $(860-800)\div2=30$（本）
9. $26\div4=6$（辆）……2（人）
$6+1=7$（辆）
至少需要 7 辆出租车。
【点拨】剩下的两人也要坐一辆出租车，所以要加 1。
10. $82\div4=20$（张）……2（元）
$20-1=19$（名）
苏丽最多能请 19 名同学看电影。
【点拨】剩下 2 元不够再买一张电影票。注意：看电影的包括苏丽。
11. 租 10 条大船，2 条小船比较合算。
【点拨】可用列表法或至少 5 种方案列式进行比较。

专项提升卷 3　四则混合运算及应用

1. 乘　减
2. $7\times(15+24)$
3. $3\times(12+28)=120$
4. 29　152
$(29+9)\times4=152$
5　19
$95\div(23-18)=19$
5. 208　511　785　100
135　824　312　12
4020　16
6. （1）$850-40\times4=690$
（2）$(42+86)\div4=32$
（3）$(100+99)\times(100-99)=199$
（4）$48\div6\times125=1000$
（5）$37\times(64-58)=222$
7. $428+9\times28=680$（个）
8. $75\times4-20+75=355$（人）
9. $(15+12)\div3=9$（条）
10. $(108+79)\times9=1683$（千米）

专项提升卷 4　周长、分数的认识及应用

1. 92　9　35　92　9
2. $\frac{2}{6}>\frac{1}{6}$　$\frac{2}{5}<\frac{3}{5}$
3. $15\times4=60$（dm）　$60\div2-21=9$（dm）
【点拨】先求出这根铁丝的长度，再求长方形的宽。
4. $(14+8)\times2=44$（cm）　$44\div4=11$（cm）
5. $(8+5+5)\times2=36$（cm）
【点拨】长方形和正方形拼成的新长方形长是 13 cm，宽是 5 cm。
6. $(36+36\div2)\times2=108$（cm）
7. $27\times4=108$（cm）　$(42-27+27)\times2=84$（cm）
【点拨】要想剪一个最大的正方形，应以长方形的宽作为正方形的边长。
8. $26+13\times2=52$（m）
9. $2\times9=18$（m）　18 m = 180 dm
10. （1）$\frac{2}{8}+\frac{3}{8}=\frac{5}{8}$
（2）没有吃完。$1-\frac{2}{8}-\frac{3}{8}=\frac{3}{8}$
（3）小猴吃得多。$\frac{3}{8}-\frac{2}{8}=\frac{1}{8}$
（4）小熊：$1-\frac{2}{8}=\frac{6}{8}$
小猴：$1-\frac{3}{8}=\frac{5}{8}$
$\frac{6}{8}>\frac{5}{8}$ 小熊剩下的西瓜更多。

题型突破卷 1　填空题（一）

1. 10　2　40
2. 3　1（答案不唯一）
3. 克　千克　吨　克　千克　克
4. （1）1　（2）3
5. 5　10000　1　3200　3　200　2
6. <　<　<　<　>　=
7. 两　三
8. 0　10　11
9. 4　6　24　2
10. 30　3　90　2　3
6　90　6　96
11. 3　2
12. 2　3
【点拨】若积是三位数，则百位不能向千位进位。如果填 3，十位向百位进 1，与百位上的 9 合起来，满 10 要向千位进 1，所以，最大只能填 2；按这个方法，若积是四位数，最小填 3。
13. 1，2，3，4　5
【点拨】要使商是一位数，则被除数十位上的数字要比除数 5 小。要使商是两位数，则被除数十位上的数字等于或大于除数 5。
14. 2，4，6，8　0
15. 8　55
16.

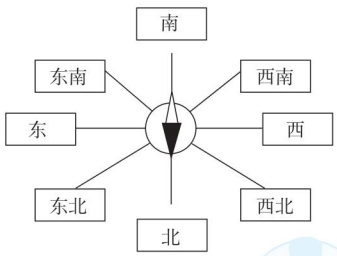

17. 西南　18. 东北　西南　北
19. 东南　东北　20. 东南　西　21. 南
22.



题型突破卷 2　填空题（二）

1. 2　1　2. 7　8
3. 366　90　92

关注微信公众号“教辅资料站”获取更多学习资料

4. 闰　日
5. 5　23
【点拨】第二季度为4月，5月，6月，其中只有5月是大月，倒数第9天是小淘气的生日，31－9＋1＝23（日），则5月23日为小淘气的生日。
6. 1949　10　1　31　71
7. 下午5时　上午8时　下午1时30分
8. 16：00　13：30　10：20　12：00
9. 9时30分　8时
10. 17：50
11. 7：50
【点拨】8时20分－30分＝7时50分。
12. 7时30分
【点拨】12时－8时30分＝3时30分
17时－13时＝4时
3时30分＋4时＝7时30分
13. 4
14. 240
15. 26
16. 32
【点拨】长方形的周长＝相邻两条边的长度之和×2。
17. 7　18. 14　19. 6　20. 24　21. 48
22. 5 cm　20 cm　长方　16 cm
23. $\frac{1}{8}$　$\frac{3}{8}$　$\frac{2}{5}$
24. 取的份数　分数线　平均分　分母
分的份数
25. $\frac{5}{7}$　$\frac{9}{24}$　$\frac{15}{60}$
26. $\frac{1}{4}$　27. $\frac{9}{11}$
28. 9　4　5　$\frac{5}{9}$　29. $\frac{22}{45}$　30. $\frac{1}{100}$　1
31. $\frac{1}{3}$　3　32. 甲　33. $\frac{4}{8}$　$\frac{2}{4}$　$\frac{1}{2}$

题型突破卷3　计算题

1. 36　99　208　400　77　138　90
1400　10　20　21　22　0　35
5……1　9……4　$\frac{4}{6}$　$\frac{6}{9}$　1　0　$\frac{13}{18}$　$\frac{1}{7}$
$\frac{2}{11}$　$\frac{1}{6}$
2. 150　630　600　3000　10　20　10　10
3. 336　510　2742　2303　3400　1000
4. 21　15　20……1　18……3
5. $125\times4\times7$　$221+252\times4$
$=500\times7$　$=221+1008$
$=3500$　$=1229$
$3\times(380+102)$　$345\times8+1570$
$=3\times482$　$=2760+1570$
$=1446$　$=4330$
$438-24+316$　$752\times(54\div9)$
$=414+316$　$=752\times6$
$=730$　$=4512$
$(60+30)\div(23-17)$
$=90\div6$
$=15$
$395-(175+24)+322$
$=395-199+322$
$=196+322$
$=518$
6. （1）$45\times(45\div9)=225$
（2）$4\times(100-25)=300$
（3）$(38+56)\div2=47$
7. （1）×　$200-125+25$
$=75+25$
$=100$
（2）×　$96\div4\times2$
$=24\times2$
$=48$
（3）×　$720-120\times5$
$=720-600$
$=120$
8. （1）$35\div(127-122)$
$=35\div5$
$=7$
（2）$(23+37)\div4$
$=60\div4$
$=15$
（3）$36\times2\div3$
$=72\div3$
$=24$

题型突破卷4　图形题

1. 30个
2. 12个
3. （1）  　（2） 
（3） 
（4） 
4. △△△
△△△
△△△
△△△
5. 
8:00

15:30

14:45

24:00

关注微信公众号“教辅资料站”获取更多学习资料

6.

日	一	二	三	四	五	六
						1
2	3	4	5	6	7	8
9	10	11	12	13	14	15
16	17	18	19	20	21	22
23	24	25	26	27	28	29

【点拨】1 月 1 日是星期三。31 ÷ 7 = 4（周）……3（天），则 1 月 31 日是星期五，2 月 1 日为星期六。2020 年为闰年，2 月有 29 天。

7. 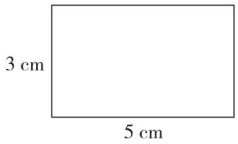

（3 + 5）×2 = 16（cm）

8. （1）（9 + 12）×2 = 42（cm）
（2）8 × 4 + 2 × 2 = 36（cm）

9. 有两种拼法。
拼法一： 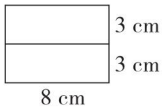

3 + 3 = 6（cm）　（6 + 8）×2 = 28（cm）
拼法二： 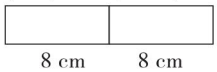

8 + 8 = 16（cm）　（16 + 3）×2 = 38（cm）
新长方形的周长最长是 38 cm。

10. 略

11. 略

题型突破卷 5　应用题（一）

1. 3 × 900 = 2700（千克）
3 吨 = 3000 千克
2700 + 3000 = 5700（千克）　6 吨 = 6000 千克
5700 千克 < 6000 千克　能通过。

2. 1 千克 = 1000 克
1000 − 540 = 460（克）
油：460 + 460 = 920（克）
瓶：1000 − 920 = 80（克）

3. 98 ÷ 2 × 7 = 343（元）

4. 75 + 5 = 80（票）80 ÷ 2 = 40（票）
【点拨】丽丽的票数比明明票数的两倍少 5 票，即丽丽的票数加上 5 票就是明明票数的 2 倍。

5. 故事书：125 × 2 − 32 = 218（本）
童话书：218 + 15 = 233（本）

6. 红气球：19 − 7 = 12（个）
花气球：12 × 2 = 24（个）

7. 方法一：182 × 8 + 700 = 2156（元）
2156 − 182 = 1974（元）
方法二：182 ×（8 − 1）= 1274（元）
1274 + 700 = 1974（元）

8. 方法一：小明：160 × 2 = 320（元）
小丽：320 × 2 = 640（元）
三人一共：160 + 320 + 640 = 1120（元）
方法二：1 + 1 × 2 + 1 × 2 × 2 = 7
160 × 7 = 1120（元）
【点拨】根据倍数关系求总和。

9. 33 − 6 = 27（岁）
27 ÷（4 − 1）= 9（岁）
9 − 6 = 3（年）
【点拨】年龄差不变。

10. 45 ÷ 6 = 7（张）……3（人）
7 + 1 = 8（张）

11. 60 ÷ 8 = 7（桌）……4（人）
7 + 1 = 8（桌）
把 688 看作 700。　700 × 8 = 5600（元）
要包 8 桌，一共大约需要 5600 元。
【点拨】余下的 4 人也要坐一张桌子，进一法。

12. 78 ÷ 8 = 9（张）……6（元）
9 − 1 = 8（位）
【点拨】此题用去尾法，注意去动物园参观的也包括明明。

题型突破卷 6　应用题（二）

1. 下午 1 时 35 分 = 13 时 35 分
13 时 35 分 − 1 时 50 分 = 11 时 45 分
【点拨】开始时刻 = 结束时刻 − 经过的时间

2. 24 时 − 19 时 53 分 = 4 时 7 分
4 时 7 分 + 8 时 22 分 = 12 时 29 分
【点拨】此题用分段计算法。注意 2019 年是平年。

3. 妈妈的生日是 2 月 29 日。
12 × 4 = 48（岁）

4. 下午 3 时 = 15 时　15 − 9 = 6（时）
70 × 6 = 420（千米）　6 + 1 = 7（时）
420 ÷ 7 = 60（千米）
【点拨】路程 ÷ 时间 = 速度

5. 长：12 × 2 = 24（dm）
周长：（12 + 24）× 2 = 72（dm）

6. 30 + 50 = 80（cm）
80 × 3 − 50 = 190（cm）
【点拨】绕 2 圈余下的 30 cm 和绕 3 圈差的 50 cm，合起来围树干一周，也就是树干的周长。

7. 剪法一：6 ÷ 2 = 3（cm）
（3 + 8）× 2 = 22（cm）
剪法二：8 ÷ 2 = 4（cm）
（4 + 6）× 2 = 20（cm）

8. 6 × 2 + 8 = 20（米）

9. 57 × 5 + 52 × 4 = 493（元）

10. 64 × 5 + 420 = 740（本）

11. 500 − 25 × 8 = 300（千克）

12. 方法一：96 ÷ 4 = 24（元）
24 + 8 = 32（元）　32 × 4 = 128（元）
【点拨】根据一个足球的价钱算一个篮球的价钱。
方法二：4 × 8 = 32（元）
96 + 32 = 128（元）
【点拨】根据一个篮球的价钱比一个足球贵 8 元，算出 4 个篮球比 4 个足球贵 32 元，再加上 4 个足球的价钱，就是 4 个篮球的价钱。

关注微信公众号“数辅资料站”获取更多学习资料

大卷达标　小卷领先







图书在版编目［CIP］数据

好卷．数学3年级．上，XS版／荣翰基主编．—合肥：安徽教育出版社，2019（2020.5 重印）

ISBN 978-7-5336-8938-4

Ⅰ．①好… Ⅱ．①荣… Ⅲ．①小学数学课—习题集 Ⅳ．①G624

中国版本图书馆 CIP 数据核字（2019）第 056007 号

好卷·3年级数学上（XS版）
HAOJUAN·3 NIANJI SHUXUE SHANG（XS BAN）

出 版 人：费兰平
质量总监：武章春
责任编辑：盛熙熙
责任校对：牛　帅
装帧设计：燕点瑞春
责任印制：崇德印务

出版发行：时代出版传媒股份有限公司　安徽教育出版社
地　　址：合肥市梅山路区繁华大道西路 398 号　邮编：230601
网　　址：http://www.ahcjc.com.cn
营销电话：(0551) 63683016，63683015
排　　版：河北省虹博联文化传媒有限公司
印　　刷：南宁县科龙印刷厂

开　　本：880×1240　1/8
印　　张：6.5
字　　数：196 千字
版　　次：2019 年 5 月第 1 版　2020 年 5 月第 3 次印刷
定　　价：30.90 元

（如发现印装质量问题，影响阅读，请与本社营销部联系调换）

关注荣翰基购售公众号，获取新资讯。
荣翰基官方网站：http://www.rudder.com.cn
荣翰基天猫旗舰店：http://rongdejitmall.com
客服购线：182 1089 5892

定价：30.90元

关注微信公众号“放辅资料站”获取更多学习资料