荣德基 好卷

3年级 数学 下 R版

第5单元 跟踪检测卷

面积

时间：80分钟　满分：100分

题号	一	二	三	四	总分
得分					

一、选一选。（把正确答案的序号填在括号里。每题2分，共16分）

1. 下面图形中，面积最小的是（　　）（1个小方格表示1平方厘米）。

A.　B.　C.　D.



2. 下面（　　）的面积接近1平方分米。

A. 指甲　　B. 大门　　C. 粉笔盒的底面　　D. 课桌

3. 用同样长的两根铁丝分别围成一个长方形和一个正方形，它们的面积相比较，（　　）。

A. 同样大　　B. 长方形的面积大

C. 正方形的面积大　　D. 无法确定

4. 用8个边长是1分米的正方形拼成的长方形的面积是（　　）平方分米。

A. 16　　B. 8　　C. 32　　D. 64

5. 下面说法正确的是（　　）。

A. 面积相等的长方形，它们的周长也相等。

B. 面积是1平方米的正方形的边长是1000厘米。

C. 8厘米比6平方厘米大。

D. 面积是36平方米的长方形有若干个，但面积是36平方米的正方形却只有一个。

6. 在长8分米、宽5分米的长方形的纸板上剪下一个最大的正方形，正方形的面积是(　　)平方分米。

A. 64　　B. 40　　C. 25　　D. 20

7. 一个正方形的边长扩大为原来的4倍，它的面积就扩大为原来的（　　）倍。

A. 4　　B. 8　　C. 12　　D. 16

8. 把一个边长是1米的正方形切成100个同样大小的小正方形，每个小正方形的边长是（　　）。

A. 1米　　B. 1分米　　C. 1厘米　　D. 1毫米

二、填一填。（每空1分，共20分）

1. 常用的面积单位有（　　）、（　　）和（　　）。

2. 在括号里填上合适的单位名称。

一块手帕的面积约是500（　　）　　一张银行卡的面积约是40（　　）

一间卧室的面积约是9（　　）　　一台电脑的屏幕的面积约是8（　　）

旗杆的高度约为10（　　）　　铅笔长约15（　　）

3. 一个长方形的面积是64平方分米，它的宽是4分米，长是（　　）分米。

4. 一个长方形，长28米，宽17米，它的面积是（　　），周长是（　　）。

5. 一个正方形的周长是64米，它的面积是（　　）。

6. 一张正方形餐桌，它的边长是14分米，半张餐桌的面积是（　　）平方分米。

7. 900平方分米＝（　　）平方米　　7000平方厘米＝（　　）平方分米

600厘米＝（　　）分米　　5平方分米＝（　　）平方厘米

8. 下面两个图形的面积分别是多少？（每个小方格代表1平方厘米）

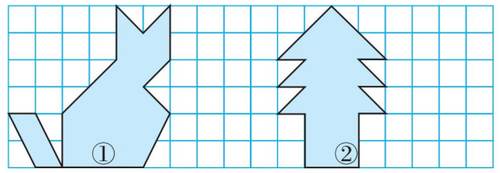

图形①的面积是（　　）平方厘米。

图形②的面积是（　　）平方厘米。

三、按要求解答。（共26分）

1. 在◯里填上“＞”“＜”或“＝”。（每题2分，共8分）

40平方厘米◯4平方米　　1平方米◯900平方厘米

300平方厘米◯3平方分米　　99平方分米◯1平方米

2. 求下面图形的面积和周长。（每题6分，共12分）

（1）

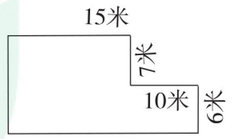

（2）

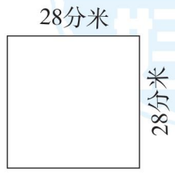

姓名　学号　班级　学校

密　封　线

豆点提示：请不要在密封线内答题哦！

荣德基好卷
微信公众号
教辅资料站
关注微信公众号“教辅资料站”获取更多学习资料

3. 在方格纸中画出面积是16平方厘米的长方形和正方形。（长方形的长、宽均为整厘米数，每个小方格的边长是1厘米）（6分）



四、走进生活，解决问题。（共38分）

1. 波波家的阳台要铺地砖，用边长是4分米的方砖，沿着阳台的长铺了10块，沿着宽铺了5块。这个阳台的周长和面积各是多少？（6分）

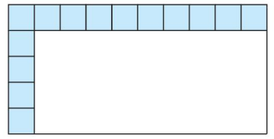

2. 李奶奶用木栅栏靠墙围出了一个正方形的养鸡场地，共用12米木栅栏，这个养鸡场地的面积是多少平方米？（6分）

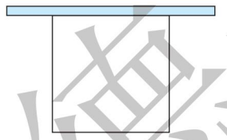

3. 长方形舞台的面积是多少平方米？（6分）



4. 一间会议室，宽是40分米，长是宽的2倍。

（1）这间会议室的面积是多少平方分米？合多少平方米？（4分）

（2）用边长为2分米的方砖铺地，一共需要多少块方砖？（4分）

（3）如果每块方砖12元，铺完这间会议室一共要用多少钱？（4分）

5. 有一块菜地如图所示，长35米，宽29米。菜地中间留了两条宽1米的路，把菜地平均分成四块，每块的面积是多少？（8分）

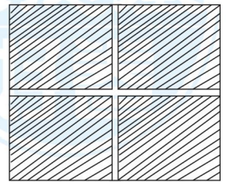

荣德基好卷
微信公众号
教辅资料站
关注微信公众号“教辅资料站”获取更多学习资料

自己说说
老师点评
家长点评
密
封
线

荣德基 好卷

3年级 数学 下 R版

第6单元 跟踪检测卷

年、月、日

时间：80分钟　满分：100分

题号	一	二	三	四	五	总分
得分						

一、选一选。（将正确答案的序号填在括号里。每题2分，共16分）

1. 下面每组节日中，都在小月的是（　　）。

A. 妇女节和元旦　　B. 建军节和国庆节

C. 儿童节和教师节　　D. 植树节和劳动节

2. 下面（　　）是闰年。

A. 2002年　　B. 2003年　　C. 2004年　　D. 2006年

3. 下面说法正确的是（　　）。

A. 小明的生日在第二季度的最后一天，所以他的生日是6月31日

B. 每年下半年的天数都相同

C. 1998年2月29日李老师参加了省表彰大会

D. 欢欢的生日是3月1日的前一天，一定是2月28日

4. 2月份最多有（　　）个星期五。

A. 3　　B. 4　　C. 5　　D. 6

5. 气象站从0时开始测量气温，每隔4小时测量一次气温，第6次测量的时间是（　　）。

A. 16时　　B. 晚上8时　　C. 晚上10时　　D. 24时

6. 玲玲从16：40开始看一部电影，到18：20结束，这部电影一共放映了（　　）。

A. 80分钟　　B. 90分钟　　C. 100分钟　　D. 2小时40分钟

7. 妈妈乘坐的高铁13时10分到达，颜颜从家到高铁站需要1小时25分钟，颜颜最晚应该（　　）从家出发去接妈妈。

A. 14：35　　B. 10：45　　C. 11：45　　D. 12：45

8. 小林晚上8时30分睡觉，他睡了10小时，第二天早上小林的起床时间是（　　）。

A. 6：00　　B. 6：30　　C. 7：30　　D. 7：00

二、填一填。（第3、4题每题4分，其余每空1分，共33分）

1. 一年有（　　）个月，小月有（　　）个，它们是（　　）；大月有（　　）个，它们是（　　）。

2. 一年有（　　）个季度，其中第二季度有（　　）天，第（　　）季度和第（　　）季度都有92天。2016年第一季度有（　　）天，2200年第一季度有（　　）天。

3. 猜猜他们的生日各是几月几日。

（1）小红说：“我的生日是第三季度的最后一天。”

她的生日是（　　）月（　　）日。

（2）小华说：“我到12岁时只过了3个生日。”

他的生日是（　　）月（　　）日。

（3）小芳说：“我的生日在教师节的前一天。”

她的生日是（　　）月（　　）日。

（4）小刚说：“我的生日是每年的倒数第二天。”

他的生日是（　　）月（　　）日。

4. 给下面的钟面画上时针。



15:00



凌晨1:00



8:00



22:00

5. 下面是小军寒假中某一天的时间安排表，请把表中的时间补充完整。

活动	24时计时法	普通计时法
起床	7：40	
读书		上午8：30
吃午饭	12：00	
打球		下午2：00
吃晚饭	18：00	
睡觉		晚上9：00

6. 如图，交通标志牌表示道路从上午（　　）时到晚上（　　）时禁止鸣喇叭。一天中，禁止鸣喇叭的时间有（　　）小时。



8:00~20:00

7. 4时＝（　　）分　　8分＝（　　）秒

23时＝（　　）分　　50分＝（　　）秒

8. 一次数学考试从14：30开始，到15：10结束，这次数学考试持续了（　　）分钟。

姓名 学号 班级 学校
密 封 线
早点提示：请不要在密封线内答题哦！
荣德基好卷
微信公众号 教辅资料站
关注微信公众号“教辅资料站”获取更多学习资料

三、连一连。(8 分)

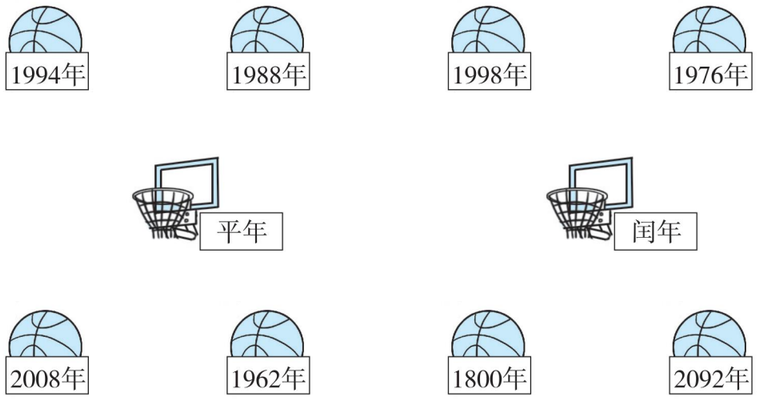

四、按要求解答。(共 11 分)

1. 2019 年五一劳动节是星期三，请你根据这个信息制作 2019 年 4 月的月历，并根据完成的月历填空。(制作月历 4 分)

_____月

日	一	二	三	四	五	六

(1) 4 月 5 日是星期 (　　)。(1 分)

(2) 二十四节气中的“谷雨”是在 4 月的第三个星期六，那天是 (　　) 月 (　　) 日。(2 分)

2. 观察运行时刻表，回答下面问题。

行驶方向	站名	到达时间	出发时间
↓	南京	—	13：54
	无锡	15：00	15：02
	苏州	15：17	15：19
	上海		—

(1) 火车从南京出发到无锡，经过了 (　　) 分钟。(1 分)

(2) 火车在苏州站停靠了 (　　) 分钟。(1 分)

(3) 如果火车从苏州到上海运行了 32 分钟，那么到达上海的时间是下午 (　　) 时 (　　) 分。(2 分)

五、走进生活，解决问题。(共 32 分)

1. (1) 儿童乐园每天开放多长时间？(4 分)

开放时间
上午8:30~下午5:30

(2) 奇奇 15：40 到儿童乐园，最多还可以玩多长时间？(5 分)

2. 李老师每天早上 6：58 从家骑车去学校，7：05 到达。如果他每分钟骑行 300 米，那么李老师家离学校有多少米？(6 分)

3. 实验小学三年级学生举办“我是环保小公民”实践活动，下面是他们在活动中收集废纸情况的统计表。

第一季度	第二季度	第三季度	第四季度
78 千克	44 千克	56 千克	62 千克

三年级学生平均每月收集多少千克的废纸？(7 分)

4. 小学生每天应该保证 9 小时 ~ 10 小时的睡眠时间。如果小海晚上 9：00 睡觉，第二天早上 6：30 起床，那么他这一天睡了多长时间？他的睡眠时间够不够？(10 分)

荣德基好卷
微信公众号 教辅资料站
自己说说
老师点评
家长点评
密 封 线

关注微信公众号“教辅资料站”获取更多学习资料

荣德基 好卷

第7单元 跟踪检测卷

小数的初步认识

3年级 数学 下 R版

时间：80分钟　满分：100分

题号	一	二	三	四	五	总分
得分						

一、选一选。（把正确答案的序号填在括号里。每题2分，共20分）

1. 6.1在哪两个相邻整数之间？正确答案是（　　）。

A. 5和6　　B. 6和7　　C. 5和7　　D. 7和8

2. 在小数3.007，0.50，4.20，3.080，0.04中，读两个零的有（　　）个。

A. 2　　B. 3　　C. 4　　D. 5

3. 1米里有（　　）个0.01米。

A. 10　　B. 100　　C. 1000　　D. 10000

4. 8角用分数表示可以写成（　　）。

A. $\frac{8}{10}$角　　B. $\frac{8}{100}$角　　C. $\frac{8}{10}$元　　D. $\frac{8}{100}$元

5. 用数字5，3，1和小数点，组成下面四个小数，其中最大的小数是（　　）。

A. 35.1　　B. 31.5　　C. 15.3　　D. 13.5

6. 聪聪做作业用了0.4小时，明明做同样多的作业用了0.5小时，（　　）做得快。

A. 聪聪　　B. 明明　　C. 不确定谁

7. 9.□>9.6，□里可以填（　　）。

A. 0～5　　B. 6～9　　C. 7～9　　D. 1～9

8. 3.6里有（　　）个0.1。

A. 3　　B. 6　　C. 30　　D. 36

9. 下面说法正确的是（　　）。

①爸爸身高178厘米，写成小数是1.78米。

②整数一定比小数大。

③列竖式计算小数加减法时，要将小数点对齐。

④大于0.1而小于0.9的小数有7个。

⑤0.60读作零点六。

A. ①②　　B. ②③　　C. ④⑤　　D. ①③

10. 小童在读一个小数时，把小数点漏掉了，结果读成了四千零四。已知原数只读出一个零，原数是（　　）。

A. 4.004　　B. 40.04　　C. 400.4　　D. 4004

二、填一填。（第6题4分，其余每空1分，共24分）

1. 在括号里填上合适的小数。

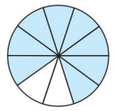

（　　）

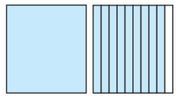

（　　）



（　　）元

2. “神舟十一号”飞船飞行的速度约是每秒七点九千米。七点九写作：（　　）

我国的“天宫二号”空间实验室全长10.4米，重8.6吨。

10.4读作：（　　）　　8.6读作：（　　）

3. 比0.6大又比0.9小的一位小数是（　　）和（　　）。

4. 课桌高7分米，写成分数是（　　）米，写成小数是（　　）米。

5. 在框里写出合适的小数。

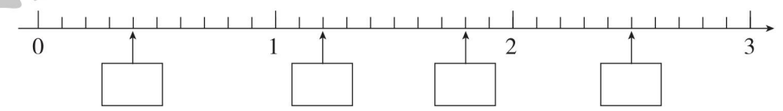

6. 在括号里填上合适的数。

0.5元＝（　　）角　　3元8角＝（　　）元

6分米＝（　　）米　　5.4元＝（　　）元（　　）角

7. 在○里填上“＞”“＜”或“＝”。

1.8○1.9　　4.5○5.4　　2元○2.0元

$\frac{3}{10}$○0.3　　1○$\frac{9}{10}$　　6.5米○6米5厘米

三、计算挑战。（共24分）

1. 直接写出得数。（每题1分，共6分）

0.3＋0.5＝　　1.2＋0.6＝　　3.8＋1.3＝

4.4－1.2＝　　5.0－0.8＝　　9.8－0.9＝

2. 列竖式计算。（每题3分，共18分）

5.6＋2.1＝　　10－4.6＝　　1.8＋4.9＝

姓名　学号　班级　学校

密　封　线

豆点提示：请不要在密封线内答题哦！

荣德基好卷　微信公众号教辅资料站

关注微信公众号“教辅资料站”获取更多学习资料

9.7 − 2.3 =　　3.5 − 2.9 =　　15.2 + 0.9 =

四、按要求解答。(3 分)

下面是百米赛跑前四名同学的成绩，请把前三名同学的名字写到领奖台上方的括号里。

姓名	成绩/秒
张博	15.9
佟思远	16.1
赵一明	15.3
李思宇	14.6

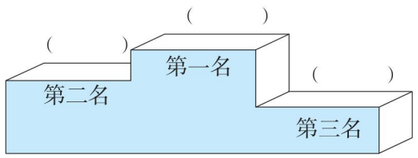

五、走进生活，解决问题。(共 29 分)

1. 我国自主研制的 C919 飞机试飞成功，它的机身长 38.9 米。更大的飞机 C929 已经开始研制，预计比 C919 的机身长 14.6 米。C929 的机身长多少米？(4 分)

2. 绑完树苗和修完篱笆后，还剩下多少米绳子？(4 分)



3. 王叔叔今天比张叔叔停车多花了 3.7 元。两位叔叔今天停车一共花了多少元？(6 分)



4. 小动物过河。



(1)(　　) 能和大象一起坐船。(2 分)

(2) 如果它们想同时过河，那么至少需要几条船？(4 分)

5. 华彩商店周年庆，所有学习用品和体育用品降价促销。



(1) 小雨有 50 元钱，买了一个书包，剩下的钱可以买一支钢笔和一根跳绳吗？(3 分)

(2) 现在买一个毽子和一根跳绳，一共可以便宜多少钱？(3 分)

(3) 你还能提出其他数学问题并解答吗？(3 分)

关注微信公众号“教辅资料站”获取更多学习资料

荣德基 好卷

3年级 数学 下 R版

第8单元 跟踪检测卷

数学广角——搭配（二）

时间：80分钟　满分：100分

题号	一	二	三	四	总分
得分					

一、选一选。（把正确答案的序号填在括号里。每题2分，共20分）

1. 从1，2，3，4中选一个数字作分子，从5，6，7中选一个数字作分母，可以组成（　　）个分数。

A．7　　B．8　　C．12　　D．14

2. 书架上有4本不同的书，小明想拿2本，有（　　）种不同的拿法。

A．3　　B．6　　C．9　　D．12

3. 三年级4个班进行足球对抗赛，每2个班比赛一场，一共要比赛（　　）场。

A．2　　B．4　　C．6　　D．8

4. 笑笑有4件上衣，3条裤子，她共有（　　）种不同的穿法。

A．12　　B．10　　C．8　　D．6

5. 在图中共有（　　）个长方形。



A．6　　B．12

C．18　　D．24

6. 从3枚硬币中任意取出2枚，取出的钱共有（　　）种情况。

A．3　　B．6　　C．9　　D．12

7. 3个小朋友都单独和李老师、陈老师分别拍一张照片，一共要拍（　　）张照片。

A．3　　B．6　　C．9　　D．12

8. 在1～200的数中，有（　　）个十位和个位相同的数。

A．20　　B．19　　C．18　　D．15

9. 聪聪在演讲比赛中获得了第1名，他和参加比赛的每个选手都握了一次手，一共握了10次，参加比赛的一共有（　　）个选手。

A．8　　B．9　　C．10　　D．11

10. 4只动物排成一队，其中骆驼不能站在最前面，一共有（　　）种排法。

A．24　　B．18　　C．12　　D．6

二、填一填。（每题4分，共28分）

1. 用4，9，8组成没有重复数字的两位数是（　　）。
2. 用1，6，8，3组成没有重复数字且个位是单数的两位数是（　　）。
3. 用2，0，7组成没有重复数字的两位数是（　　）。
4. 用0，3，6，9组成没有重复数字的两位数是（　　），最大的是（　　），最小的是（　　）。
5. 有5颗糖，全部分给芳芳、菲菲、丽丽三人，每人至少分1颗，有（　　）种不同的分法。
6. 7个小朋友在进行围棋比赛，每2个小朋友都要比赛一场，一共要进行（　　）场比赛。
7. 从乐乐家到学校一共有（　　）条路走。

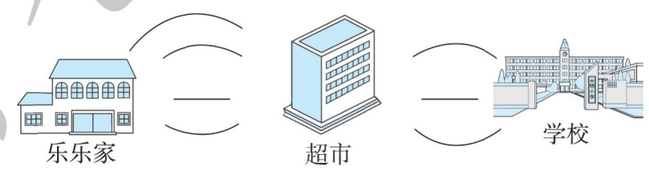

三、想一想，填一填。（每题6分，共18分）

1. 一共有（　　）种不同的坐法。



2. 他们每两个人要握一次手，共要握（　　）次手。



3. 2018年世界杯32强C组有4个国家球队，每2个球队比赛一场，一共要比赛（　　）场。

姓名　学号　班级　学校

密　封　线

豆点提示：请不要在密封线内答题哦！

荣德基好卷　微信公众号教辅资料站　关注微信公众号“教辅资料站”获取更多学习资料

四、走进生活，解决问题。（共 34 分）

1. 拉动纸条，看看可以组成哪些两位数，记录下来。（6 分）

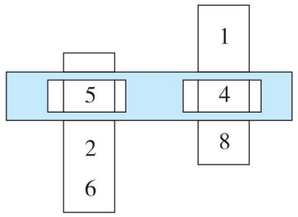

2. 三（1）班在筹划校运动会 4 × 100 米接力赛方案时，决定让本班短跑速度最快的小东跑第四棒，小浩、小峰、小亮跑其他三棒。一共有几种不同的方案？（6 分）



3. 学校准备在 4 名男同学和 3 名女同学中选出 1 名男同学和 1 名女同学作为诗词朗诵比赛的主持人，有多少种不同的选法？（6 分）



4. 小峰、小红、小亮、小兰和小梅 5 人进行跳棋比赛，每 2 人都要比赛 1 场。

（1）一共要比赛多少场？（4 分）



（2）最后 2 场都是小亮赢，其他人赢的场数相同，他们各赢了几场？（4 分）

5.



（1）乐乐从中任选 2 种，有多少种不同的选法？（4 分）

（2）乐乐想选苹果和另外 1 种，共有多少种不同的选法？如果把选出的 2 种水果分别送给萍萍和芳芳，有多少种不同的送法？（4 分）

自己说说
老师点评
家长点评
密
封
线

关注微信公众号“教辅资料站”获取更多学习资料

荣德基 好卷

期末复习冲刺卷 模块过关卷（一）

计算

3年级 数学 下 R版

时间：80分钟　满分：100分

题号	一	二	三	四	总分
得分					

姓名　学号　班级　学校　密　封　线

豆点提示：请不要在密封线内答题哦！

一、选一选。（把正确答案的序号填在括号里。每题1分，共10分）

1. 605除以6的商的末尾有（　　）个0。

A. 0　　B. 1　　C. 2　　D. 3

2. 下面的说法正确的是（　　）。



A.　　B.　　C.　　D.

3. 三位数除以一位数（0除外），商是（　　）位数。

A. 两　　B. 三　　C. 四　　D. 两或三

4. 50米赛跑前三名的成绩是：小亮9.2秒，小东10.1秒，小强9.5秒。（　　）是冠军。

A. 小亮　　B. 小东　　C. 小强　　D. 无法确定

5. 算式38×□2，（　　）可能是这道算式的得数。

A. 306　　B. 696　　C. 3116　　D. 38016

6. 一个数除以8，商是124，有余数。这个数最大是（　　）。

A. 993　　B. 992　　C. 995　　D. 999

7. 要使□72÷6的商是三位数，□里的数可能是（　　）。

A. 1，2，3，4　　B. 5，6，7，8

C. 6，7，8，9　　D. 2，3，4，5

8. 如图，在计算18×32的竖式中，箭头所指的这一步表示的是（　　）。

$$\begin{array}{r} 18 \\ \times 32 \\ \hline 36 \\ 54 \leftarrow \\ \hline 576 \end{array}$$

A. 18×2　　B. 18×3

C. 18×30　　D. 10×32

9. 下面阴影部分能用0.4来表示的是（　　）。

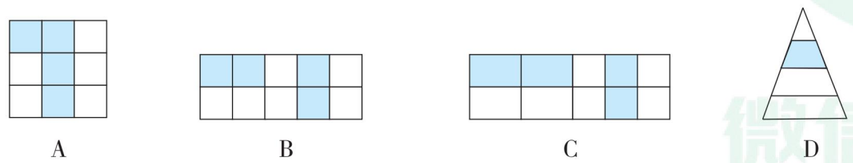

A　　B　　C　　D

10. 下面说法不正确的是（　　）。

A. 小数加减法和整数加减法意义相同。

B. 805÷7的商的中间有一个0。

C. 闰年和平年的下半年的天数一样多。

D. 计算28×15时，可以先算28×5的积，再加上28×10的积。

二、填一填。（第4题3分，其余每空1分，共18分）

1. 43的17倍是（　　），600是4的（　　）倍。

2. 最大的两位数和它本身的积是（　　）。

3. □7×19的积的个位上的数字是（　　），5□□÷4的商是（　　）位数。

4. 填上合适的小数。

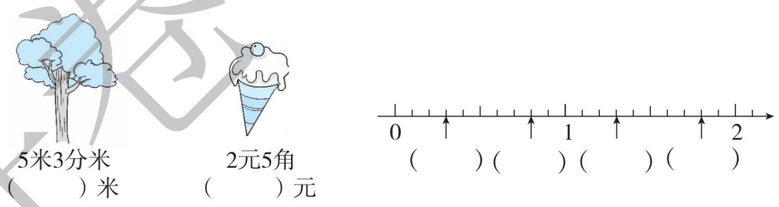

5米3分米（　　）米　　2元5角（　　）元　　（　　）（　　）（　　）（　　）

5. 中国国家航天局1993年成立，英国航天局2011年成立。英国航天局比中国国家航天局晚成立（　　）年。

6. 用24时计时法表示下午3：25，是（　　）；用普通计时法表示19：30，是（　　）。

7. 已知□×23＝897，其中□里的数不变，那么□×230＝（　　）。

8. 9□5÷9的商是（　　）位数，要使商的中间有0，□里最大可以填（　　）。

9. 在○里填上“＞”“＜”或“＝”。

34×17 ○ 18×34　　693÷7 ○ 693÷9

3.4＋6.1 ○ 3.5＋5.8　　10.2－3.1 ○ 9.3－2.1

三、计算挑战。（共38分）

1. 直接写出得数。（每题1分，共12分）

0.5－0.2＝	0.3＋0.5＝	390÷3＝	0÷2＝
360÷4＝	24×50＝	60×60＝	300÷5＝
23×10＝	0×38＝	906÷3＝	40×80＝

2. 列竖式计算，带＊的要验算。（验算题每题3分，其余每题2分，共14分）

56×29＝　　8.7－2.9＝　　＊578÷8＝

荣德基好卷
微信公众号 教辅资料站
关注微信公众号“教辅资料站”获取更多学习资料

12.4 + 9.3 =　　43 × 61 =　　* 276 ÷ 4 =

3. 计算下面各题。（每题 3 分，共 12 分）

360 ÷ 5 ÷ 6　　3500 − 65 × 26

10 − 2.7 + 3.3　　（503 − 188）÷ 5

四、走进生活，解决问题。（共 34 分）

1. 一辆货车载质量是 8 吨，满载时共重 13.2 吨。它是否超载了？（6 分）

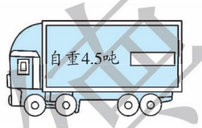

2. 比本领。（6 分）



谁的本领强呢？

3. 食堂运来 850 千克大米，吃了 16 天，平均每天吃 28 千克。还剩多少千克大米？（7 分）

4. （8 分）



5. 小术周日去铁山坪森林公园游玩。



（1）小术 10：20 从凉亭出发，下午 1：30 到达松林，路上用了多长时间？（3 分）

（2）小术在松林观赏 40 分钟后出发去梅园，从松林到梅园要走 145 分钟。小术是什么时间到达梅园的？（4 分）

荣德基好卷
密
封
线
自己说说
老师点评
家长点评
微信公众号
教辅资料站
关注微信公众号“教辅资料站”获取更多学习资料

荣德基 好卷

3年级 数学 下 R版

期末复习冲刺卷 模块过关卷（二）

统计与几何

时间：80分钟　满分：100分

题号	一	二	三	四	总分
得分					

一、选一选。（把正确答案的序号填在括号里。每题2分，共18分）

1. 秀儿放学回家时往西走，那么她左边是（　　）。

A. 东　　B. 北　　C. 西　　D. 南

2. 下面图形中，面积最大的是（　　）。（每个□代表1平方厘米）

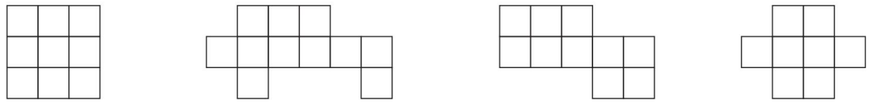

A　　B　　C　　D

3. 下面是4名同学的体检情况统计表。

体检结果 姓名 / 体检项目	小红	小亮	小芳	小雅
身高/厘米	141	139	141	137
体重/千克	32.0	30.5	28.1	31.3

这4名同学中，（　　）的体重最重，（　　）的身高最矮。

A. 小红　　B. 小亮　　C. 小芳　　D. 小雅

4. 如图阴影部分的面积是（　　）。

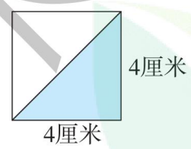

A. 16平方厘米

B. 8平方厘米

C. 8厘米

5. 红红面向南，她向右转后，这时她的后面是（　　）。

A. 东　　B. 南　　C. 西　　D. 北

6. 小红沿一个正方形花坛走了3圈，共走120米，这个花坛的面积是（　　）平方米。

A. 30　　B. 40　　C. 100　　D. 1600

7. 下图中，说法正确的是（　　）

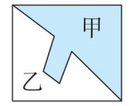

A. 甲、乙的周长相等　　B. 甲、乙的面积相等

C. 乙的周长长　　D. 甲的面积小

8. 下面说法正确的是（　　）。

①边长是10厘米的正方形的面积是1平方分米。

②用两根同样长的铁丝围成两个长、宽不同的长方形，它们的面积相等。

③从一个长方形中剪下一个最大的正方形，这个正方形的边长就是原来长方形的宽。

④用16个边长是1厘米的正方形，无论拼成什么样的图形（不重叠），所得的图形的面积都是16平方厘米。

A. ①②③　　B. ②③④　　C. ①②④　　D. ①③④

9. 如图每个□代表1平方厘米，这个长方形的面积是(　　)平方厘米。

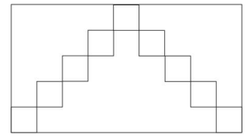

A. 15　　B. 25

C. 30　　D. 45

二、填一填。（每空1分，共20分）

1. 早上起来，面向太阳的一面是（　　）面，背对太阳的一面是（　　）面。

2. 在括号里填上合适的单位。

（1）2020年东京奥运会纪念币藏品表面的面积约是6（　　）。

（2）茶几台面的面积约是80（　　）。

（3）教室的门高约是2（　　），面积约是2（　　）。

（4）一张A4纸的面积约是600（　　），也就是6（　　）。

3. 一个正方形的边长是30分米，它的面积是（　　）平方分米，合（　　）平方米。

4. 学校在小月家的北面，小月家在学校的（　　）面。书店在小月家的东北面，小月家在书店的（　　）面。

5. 一个长方形的长是9分米，宽是5分米，面积是（　　）平方厘米。

6. 一间教室的地面是长方形，它的占地面积是63平方米，长是9米，宽是（　　）米。

7. 一个正方形的周长是24分米，边长是（　　）分米，面积是（　　）平方分米。

8. 9平方分米 =（　　）平方厘米　　700平方分米 =（　　）平方米

8000平方厘米 =（　　）平方分米　　40平方米 =（　　）平方分米

姓名　学号　班级　学校　密　封　线



荣德基 好卷
微信公众号 教辅资料站
关注微信公众号“教辅资料站”获取更多学习资料

三、按要求解决。（共 22 分）

1. 看图回答。



（1）小狗在小马的（　　）面，在小牛的（　　）面。（2 分）

（2）如果小兔去找小老鼠玩，它要先向（　　）走，再向（　　）走。（4 分）

（3）小老鼠要走到小马的位置，它要先向（　　）走，再向（　　）走。（4 分）

2. 画 2 个不同的长方形，使它们的面积都是 20 平方厘米。（每个□代表 1 平方厘米）（12 分）



四、走进生活，解决问题。（共 40 分）

1. 一台压路机，每分钟行驶 60 米，压路的宽度是 3 米，压路机行驶半小时能压多少平方米的路面？（6 分）



2. 有两个完全一样的长方形，长 24 厘米，宽 12 厘米。怎样拼周长最长？是多少厘米？它的面积是多少平方厘米？（8 分）

3. 爷爷靠墙围了一个长 11 米，宽 8 米的长方形院子。

（1）这个院子的面积是多少平方米？（3 分）

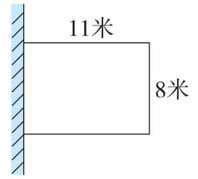

（2）如果用边长为 2 分米的方砖铺院子，需要铺多少块？（3 分）

4. 聪聪从下图的长方形纸中先剪下一个最大的正方形，然后在剩下的纸中又剪下一个最大的正方形，第二个正方形的面积是多少？（单位：厘米）（8 分）

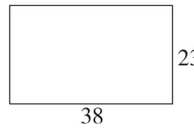

5. 一、二年级学生最喜欢的“卡通明星”统计表

人数 / 卡通明星 / 年级	熊大	哪吒	喜羊羊	机器猫
一年级	42	36	50	28
二年级	56	42	63	25

（1）在调查的学生中，最喜欢（　　）的人数最多，最喜欢（　　）的人数最少。（4 分）

（2）一年级一共调查了多少人？二年级呢？（4 分）

（3）你还能提出一个数学问题并解答吗？（4 分）

荣德基好卷
微信公众号
教辅资料站
关注微信公众号“教辅资料站”获取更多学习资料

题号	一	二	三	四	总分
得分					

一、选一选。（把正确答案的序号填在括号里。每题2分，共20分）

1. 两位数乘两位数的积是（　　）。

A. 三位数　　B. 四位数　　C. 三位数或四位数　　D. 五位数

2. 如图是一张残缺的日历，你认为这一年可能是（　　）年。

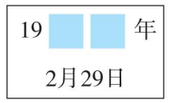

A. 1900

B. 1990

C. 1996

D. 1970

3. 明明从家向西走600米到学校，回来时应向（　　）走600米。

A. 东　　B. 西　　C. 南　　D. 北

4. 小静在计算“800÷4”时，先把800看作8个百，然后把它平均分成4份，每份是（　　）。

A. 2个十　　B. 2个百　　C. 2个一　　D. 4个十

5. 小娟买了一盒酸奶，生产日期是5月10日，保质期是21天。到6月1日这一天，这盒酸奶（　　）。

A. 已过期　　B. 没过期　　C. 无法判断是否过期

6. “庆六一”文艺晚会18:20开始，经过150分钟结束，结束的时间是（　　）。

A. 20:50　　B. 19:50　　C. 21:30　　D. 21:00

7. 用1，5，0，8这四个数字能组成（　　）个没有重复数字的两位数。

A. 6　　B. 7　　C. 8　　D. 9

8. 下列说法正确的是（　　）。

A. 0除任何不是0的数，结果都得0。

B. 任意连续4年中，都一定有1个闰年，3个平年。

C. 正方形的面积是边长的4倍。

D. 在748÷5，945÷9，513÷3三个算式中，748÷5的商最接近150。

9. 如图，甲、乙都是正方形，甲的周长是36厘米，乙的面积是（　　）。

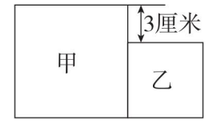

A. 36平方厘米

B. 24平方厘米

C. 9平方厘米

D. 6平方厘米

10. 小明看一本书，前4天每天看26页，后6天每天看40页刚好看完，小明平均每天看多少页？列式正确的是（　　）。

A. （26+40）÷2　　B. （26×4+40×6）÷（4+6）

C. （26+40）÷（4+6）　　D. （26+40×6）÷（4+6）

二、填一填。（第4题2分，第9题5分，其余每空2分，共27分）

1. 每条船限载6人，三年级共有182人，至少需要（　　）条船；四年级坐满了34条船，还有3人坐不下，四年级共有（　　）人。

2. 买1个计算器和1个文具盒共需要（　　）元，1个文具盒比1个计算器便宜（　　）元。

47.6元

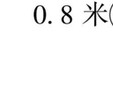
8.2元

3. 1只母鸡平均1个月产蛋22个，10只母鸡半年产蛋多少个？列式为（　　）。

4. 6个羽毛球装1盒，130个羽毛球可装（　　）盒，还剩（　　）个。

5. 世界杯足球赛共有32支球队，平均分为8个小组，每个小组有（　　）支球队，小组内每2支球队进行一场比赛，每个小组要进行（　　）场比赛。

6. 小丽去超市买水果和蔬菜，如果只买一种水果和一种蔬菜，一共有（　　）种不同的买法。



7. 小飞的妈妈比小飞大24岁，可是他们两人过生日的次数一样多，妈妈的年龄是（　　）岁。

8. 学校有两块面积相等的花坛。一块是正方形，边长是6米；另一块是长方形，长是9米，宽是（　　）米。

9. 在◯里填上“>”“<”或“=”。

3.2 ◯ 2.3　　0.5 ◯ $\frac{7}{10}$　　2年 ◯ 20个月

7平方米 ◯ 700平方厘米　　0.8米 ◯ 80厘米

姓名 学号 班级 学校
密 封 线
豆点提示：请不要在密封线内答题哦！

荣德基好卷 微信公众号 教辅资料站
关注微信公众号“教辅资料站”获取更多学习资料

三、计算挑战。（共 18 分）

1. 直接写出得数。（每题 1 分，共 8 分）

$30 \times 16 =$	$80 \times 50 =$	$560 \div 7 =$	$808 \div 4 =$
$356 \div 9 \approx$	$903 \div 3 \approx$	$203 \div 4 \approx$	$1 - 0.6 =$

2. 列竖式计算，带 * 的要验算。（验算题 4 分，其余每题 3 分，共 10 分）

$42.3 + 5.9 =$　　$75 \times 57 =$　　$*522 \div 4 =$

四、走进生活，解决问题。（共 35 分）

1.

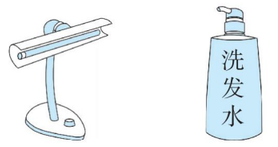

（1）一盏台灯比一瓶洗发水贵多少元？（3 分）

（2）买一盏台灯和一瓶洗发水，用翼支付付款，一共要付多少元？（4 分）

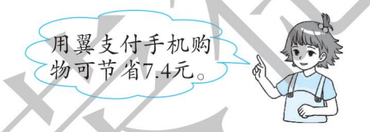

2. 张叔叔骑摩托车平均每小时行驶多少千米？（6 分）

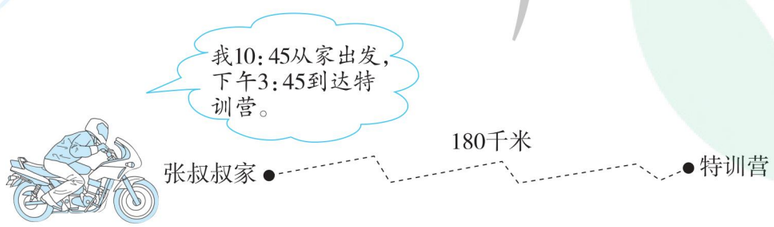

3. 李老师要为外出游玩的同学购买矿泉水。如果全买大箱，需要买 15 箱。如果全买小箱，需要买多少箱？（6 分）

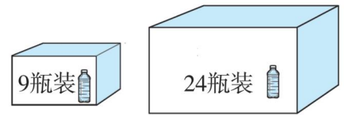

4. 1 千克黄豆能做 4 千克豆腐，现在豆腐店有 20 袋黄豆，每袋 40 千克，这些黄豆能做多少千克豆腐？（6 分）

5. 小明家客厅的地面长 6 米，宽 4 米，爸爸打算用边长为 4 分米的方砖铺地。

（1）一共需要多少块方砖？（5 分）

（2）买来 13 箱方砖，每箱 12 块，够吗？（5 分）

荣德基好卷
微信公众号
教辅资料站
关注微信公众号“教辅资料站”获取更多学习资料
自己说说
老师点评
家长点评
密
封
线

荣德基 好卷

3年级 数学 下 R版

期末复习冲刺卷 模块过关卷（四）

常考易错题综合

时间：80分钟　满分：100分

题号	一	二	三	四	总分
得分					

一、选一选。（把正确答案的序号填在括号里。每题2分，共20分）

1. 算式83×□7中的□是一个被遮住的数字，这个算式的积不可能是（　　）。

A. 1411　　B. 3077　　C. 5561　　D. 8051

2. □÷9=△……☆，当商和余数相等时，被除数有（　　）种情况。

A. 9　　B. 8　　C. 10　　D. 7

3. 把这4本书摆成一行，一共有□种不同的摆法，从中任意选出2本书，共有□种选法。□里应该分别填（　　）。



A. 24；6　　B. 18；12　　C. 12；6　　D. 6；6

4. 某商品展销时间是从6月28日开始到8月5日结束，为期（　　）天。

A. 39　　B. 40　　C. 41　　D. 42

5. 一本故事书8.8元，比一本作文书贵1.2元，一本故事书和一本作文书共（　　）元。

A. 18.8　　B. 10　　C. 16.4　　D. 7.6

6. 李明从龙岩到上海出差，乘高铁需要9小时，如果他13:30出发，（　　）到达。

A. 21:30　　B. 9:30　　C. 10:30　　D. 22:30

7. 小丽2020年的生日是3月1日的前一天，她的生日是（　　）。

A. 2月31日　　B. 2月30日　　C. 2月29日　　D. 2月28日

8. 一个三位数除以7，商是三位数，被除数最高位上的数可能是（　　）。

A. 3　　B. 5　　C. 6　　D. 8

9. 小军去游泳，他在泳道内游2个来回，共游了100米，这个游泳池的泳道长（　　）米。

A. 100　　B. 50　　C. 40　　D. 25

10. 下面说法正确的是（　　）。

A. 2□×2□的积一定是三位数。

B. 除数是一位数的除法，如果被除数的哪一位不够商1，就在那一位上写0。

C. 四月、六月、八月、九月、十一月，每月都有30天。

D. 正方形的边长扩大为原来的3倍，它的周长扩大为原来的6倍，面积扩大为原来的9倍。

二、填一填。（每空1分，共21分）

1. 小涛放学时向西南方向走回家，学校在小涛家的（　　）方向。

2. 5□1是一个三位数，5□1÷3要使商的个位是0，□里最大填（　　）。

3. 如果△=○+○+○，△+○=60，那么○=（　　），△=（　　）。

4. 右图中阴影部分小正方形的面积是16平方米，那么这个大正方形的面积是（　　）平方米。

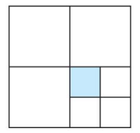

5. 今年是（　　）年，二月有（　　）天，上半年有（　　）天。

6. 用1，3，5，7能组成（　　）个没有重复数字的两位数。

7. 工人师傅准备在长6米、宽4米的空地上，铺边长为2分米的方砖，一共需要（　　）块。

8. 在一张长9分米、宽7分米的长方形纸上，剪下一个最大的正方形。这个正方形的面积是（　　），剩余纸的周长是（　　）。

9. 一张课桌高约7（　　），写成分数是$\frac{(\quad)}{(\quad)}$米，写成小数是（　　）米。

10. 在○里填上“>”“<”或“=”。

4.8○4.5　　7.1○1.7　　7平方分米○700平方厘米

18×40○14×80　　576÷6○576÷8　　420÷6○420÷3×2

三、计算挑战。（共27分）

1. 直接写出得数。（每题1分，共8分）

240×4=　　350÷7=　　0÷9=　　30×22=

4.5−1.8=　　0.9+4.5=　　422÷6≈　　38×27≈

2. 列竖式计算，带*的要验算。（验算题4分，其余每题3分，共10分）

42×65=　　20−9.9=　　*623÷7=

姓名　学号　班级　学校

密　封　线



荣德基 微信公众号 教辅资料站

关注微信公众号“教辅资料站”获取更多学习资料

3. 计算下面各题。（每题 3 分，共 9 分）

15.6 + 8.9 − 4.7　　756 ÷ 9 − 21　　(136 − 87) × 52

四、走进生活，解决问题。（共 32 分）

1. 芳芳买了一卷总长为 10 米的彩带，第一次用去 1.5 米，第二次用去 1.8 米，这卷彩带比原来短了多少米？（5 分）

2. 里约热内卢奥运会中国体育代表团一共有 711 人，其中运动员有 416 人，如果把这些运动员平均分成 2 队，每队站成 4 排，平均每排应站多少人？（6 分）

3. 一块长方形水稻试验田，长 48 米，宽 22 米。

（1）这块水稻试验田的周长是多少米？（3 分）

（2）如果每平方米施肥 3 千克，这块水稻试验田一共施肥多少千克？（3 分）

4. 李叔叔家原来有一块边长为 8 米的正方形菜地，今年李叔叔将这块菜地进行了扩建。（如图中阴影部分）

（1）原来这块菜地的面积是多少平方米？（3 分）

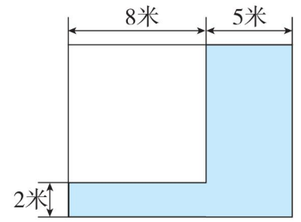

（2）李叔叔今年扩建了多少平方米的菜地？（3 分）

5. 如图是植物园的公告牌。

（1）植物园每天开放多长时间？（2 分）

开放时间
上午8:30～下午5:30
门票
成人：17元　儿童：11元

（2）育英小学的 3 位老师带着 62 名同学去植物园参观，买门票要多少元？（3 分）

（3）参观完植物园，他们去水上乐园划船，每条船上最多可坐 6 人，至少要租多少条船？（4 分）

荣德基好卷
微信公众号
教辅资料站
关注微信公众号“教辅资料站”获取更多学习资料

荣德基 好卷

3年级 数学 下 R版

期末复习冲刺卷

期末测试卷

时间：80分钟　满分：100分

题号	一	二	三	四	五	总分
得分						

答题卡下载

姓名 学号 班级 学校

密 封 线

亮点提示：请不要在密封线内答题哦！

一、选一选。（把正确答案的序号填在括号里。每题2分，共20分）

1. 商最接近50的除法算式是（　　）。

A. 565÷8　　B. 350÷6　　C. 349÷7　　D. 470÷9

2. 14×27的计算结果比13×27的计算结果多（　　）。

A. 1个1　　B. 1个27　　C. 1个13　　D. 10个13

3. 由3个百分之一，2个十分之一和5个一组成的数是（　　）

A. 3.25　　B. 0.235　　C. 5.23　　D. 0.523

4. 用四个面积是1平方厘米的小正方形拼成一个大正方形，这个大正方形的周长是（　　）。

A. 4厘米　　B. 8厘米　　C. 4平方厘米　　D. 8平方厘米

5. 从长16厘米，宽11厘米的长方形纸上剪下一个最大的正方形，这个正方形的面积是（　　）平方厘米。

A. 121　　B. 176　　C. 256　　D. 25

6. 帅帅的妈妈近段时间上夜班，晚上10时到家，路上大约要走10分钟，妈妈大约（　　）下的班。

A. 晚上10时　　B. 21:50

C. 晚上10时10分　　D. 10:10

7. 四个人进行击剑比赛，每两个人进行一场比赛，一共要比赛（　　）场。

A. 6　　B. 8　　C. 10　　D. 4

8. 一列火车晚上9时30分从甲城开出，第二天早上7时30分到乙城，这列火车一共行了（　　）小时。

A. 7　　B. 8　　C. 9　　D. 10

9. 要解决“有84棵树苗，平均分给4个班级栽种，每个班级分到多少棵树苗?”如图竖式中箭头所指的“8”表示（　　）。

```
  21
4)84
  8←
  4
  4
  0
```

A. 已经分掉了8棵树苗　　B. 已经分掉了80棵树苗

C. 已经分掉了4棵树苗　　D. 已经分掉了84棵树苗

10. 下面说法正确的是（　　）。

A. 用0，3，6三个数字可以组成6个没有重复数字的两位数。

B. 用24厘米长的绳子分别围成一个长方形和一个正方形，正方形的面积比较大。

C.（　　）×29<1200，（　　）里最大能填40。

D. 因为6<59，所以0.6<0.59。

二、填一填。（第10题6分，其余每题2分，共24分）

1. 123是3的（　　）倍，123的3倍是（　　）。

2. □54÷7，要使商是两位数，□里最大填（　　），要使商是三位数，□里可以填（　　），（　　），（　　）。

3. 402÷4的商的末尾有（　　）个0，25×80的积的末尾有（　　）个0。

4. 在2015年，1800年，1996年，1826年，2001年，2020年这些年份中，是闰年的有（　　）。

5. 用同样大小的方砖铺在一个长方形客厅里，沿着长正好铺了24块，沿着宽正好铺了15块，刚好铺满这个长方形客厅共需要（　　）块。

6. 用3，6，8能组成（　　）个没有重复数字的两位数。如果选择其中的2个两位数组成□□×□□的算式，那么乘积最大的算式是（　　）。

7. 红红给好友寄了一本价格是26.8元的科技书，付邮费3.9元。她一共花了（　　）元。

8. 刮南风时，彩旗向(　　)面飘扬，刮(　　)风时，彩旗向东南方向飘扬。

9. 篮球场的长是28米，宽是15米，它的面积是（　　）平方分米。

10. 在括号里填上合适的数。

1日=（　　）小时　　500平方分米=（　　）平方米

5米2分米=（　　）米　　3年=（　　）个月

30平方分米=（　　）平方厘米　　14元5角=（　　）元

三、计算挑战。（共24分）

1. 直接写出得数。（每题1分，共8分）

5.5−4.7=　　420÷6=　　18×40=　　8−0.4=

30×89≈　　178÷6≈　　49×31≈　　296÷6≈

2. 列竖式计算，带*的要验算。（验算题3分，其余每题2分，共7分）

49×26=　　10.3−1.8=　　*518÷5=

荣德基好卷 微信公众号 教辅资料站

关注微信公众号“教辅资料站”获取更多学习资料

3．计算下面各题。（每题 3 分，共 9 分）

79 × 23 − 569　　21 × 14 ÷ 3　　（854 − 105）÷ 7

四、求图中阴影部分的面积。（单位：厘米）（5 分）

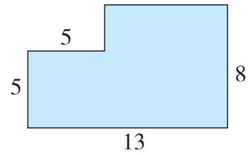

五、走进生活，解决问题。（共 27 分）

1．李阿姨是一位家政工人，为每户人家每次打扫卫生平均收费 105 元。她每天给 2 户人家打扫卫生，每户人家打扫 1 次，半个月（15 天）能挣多少元？（4 分）

2．15 位老师带着 12 个班的同学去春游，平均每个班有 34 人。他们共租了 10 辆客车，每辆客车有 48 个座位。客车上的座位够坐吗？（5 分）

3．（1）动物园每天开放时间是多长？（3 分）



（2）芳芳下午 3：30 到动物园，她最长可以玩多长时间？（3 分）

4．买玩具。



（1）买一架玩具飞机和一个玩具熊，一共需要多少元？（2 分）

（2）一个玩具熊比一架玩具飞机便宜多少元？（2 分）

（3）你还能提出一个数学问题并解答吗？（2 分）

5．下面是三、四年级学生参加国学经典诵读活动的情况统计表。（每人限选一种）

人数 / 书名 / 年级	《三字经》	《弟子规》	《论语》	《诗经》	《千字文》
三年级	16	25	14	9	30
四年级	31	6	20	17	11

（1）在参加的学生中，诵读（　　）的人数最多，诵读（　　）的人数最少。（2 分）

（2）三年级有（　　）人参加此次活动，四年级有（　　）人参加此次活动。（4 分）

荣德基好卷
微信公众号
教辅资料站
关注微信公众号“教辅资料站”获取更多学习资料
自己说说
老师点评
家长点评
密
封
线

荣德基 好卷

3年级 数学 下 R版

期末复习冲刺卷

福建省仿真模拟卷（一）

时间：80分钟　满分：100分

题号	一	二	三	四	五	总分
得分						

答题卡下载

姓名　学号　班级　学校　密　封　线

早点提示：请不要在密封线内答题哦！

一、选一选。（将正确答案的字母填在括号里。每题2分，共20分）

1.（莆田）一个足球场的占地面积约为7000（　　）。

A. 米　　B. 平方厘米　　C. 平方分米　　D. 平方米

2.（福清）下面图（　　）的涂色部分可以用0．2表示。

A. 　B. 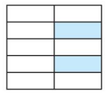　C. 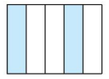　D. 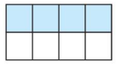

3.（厦门）《新闻联播》19：00开始，用普通计时法表示就是（　　）开始。

A. 7：00　　B. 晚上7时　　C. 晚上19：00　　D. 晚上9：00

4.（龙岩）学校图书馆买来一批书，每捆34本，一共有21捆，一共有多少本书？小青用竖式进行计算，竖式中箭头部分表示的是（　　）。

A. 20捆书的本数　　B. 2捆书的本数

C. 21捆书的本数　　D. 68本书

```
  3 4
× 2 1
  3 4
6 8 ←
7 1 4
```

5. 8□6÷4的商的十位是0，□可填的数字有（　　）。

A. 1，2，3，4　　B. 2，3，4，5　　C. 0，1，2，3　　D. 4，5，6，7

6. 小丽的爸爸今年因公事出差离家62天，正好是连续的两个月，这两个月是(　　)。

A. 3月和4月　　B. 6月和7月　　C. 7月和8月　　D. 11月和12月

7.（厦门）下面的竖式计算，错误的是（　　）。

①
```
    9 3
5 ⟌ 4 6 5
    4 5
    ---
      1 5
      1 5
      ---
        0
```

②
```
    2 7
  × 3 4
  -----
  1 0 8
  8 1
  -----
  9 1 8
```

③
```
    1 6
6 ⟌ 6 3 6
    6
    ---
      3 6
      3 6
      ---
        0
```

④
```
    4 3
  × 8 2
  -----
    8 6
  3 4
  -----
  4 3 0
```

A. ①和②　　B. ①和③　　C. ②和③　　D. ③和④

8.（漳州）2018年“六一”儿童节是星期五，端午节是6月18日，请问2018年端午节是星期（　　）。

A. 六　　B. 日　　C. 一　　D. 二

9.（厦门）从一个长6米、宽4米的长方形铁板上切下一个最大的正方形，这个正方形的面积是（　　）平方米。

A. 36　　B. 24　　C. 16　　D. 10

10.（厦门）学校体检测量身高：甲1.3米，乙126厘米，丙1米4分米。把他们三名同学的身高从高到低排列，（　　）的排列是正确的。

A. 甲、乙、丙　　B. 甲、丙、乙

C. 丙、乙、甲　　D. 丙、甲、乙

二、填一填。（第4题4分，其余每空1分，共22分）

1.（厦门）在括号里填上合适的单位或合适的数。

手机屏幕的面积大约是105（　　）　　学校跑道长400（　　）

一天是24（　　）　　边长为100厘米的正方形的面积是1（　　）

2.（厦门）厦门自贸区“风信子”跨境直购商城营业时间为上午10：00～晚上10：00，一天的营业时间为（　　）小时，欢欢一家打算20：00去逛逛，请问这时“风信子”（　　）营业。（填“还在”或“停止”）

3. 562÷7的商最高位在（　　）位上，商大约是（　　）。

4.（莆田）写出箭头所指的小数，并用箭头标出小数4.2所在的位置。

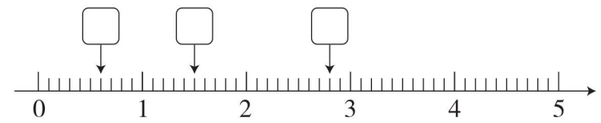

5.（福清）小军傍晚欣赏夕阳的景色，他面对的是（　　）面，右边是(　　）面。

6.（龙岩）要使□38÷6的商是三位数，□里最小填（　　）；要使商是两位数，□里最大填（　　）。

7. 1瓶酸奶3元，食堂阿姨用200元，最多能买（　　）瓶。

8. 5分米是$\frac{(\quad)}{(\quad)}$米，写成小数是（　　）米。

9. 杨叔叔平均每分钟打58个字，估一估，他1小时大约能打（　　）个字。

10.（福清）右图是由5个边长为1厘米的正方形拼成的，它的面积是（　　）平方厘米，周长是（　　）厘米。

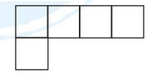

三、（龙岩）计算挑战。（共23分）

1. 直接写出得数。（每题0.5分，共6分）

30×50=	3000÷4=	36÷3=	250+80=
6.3−3.7=	0.3+0.7=	84÷4=	240×3=
52×38≈	297÷5≈	722÷8≈	99×38≈

关注微信公众号“教辅资料站”获取更多学习资料

2. 列竖式计算，带＊的要验算。（验算题 3 分，其余每题 2 分，共 9 分）

35 × 58 =　　12 − 9.8 =　　824 ÷ 4 =　　＊425 ÷ 7 =

3. 脱式计算。（每题 2 分，共 8 分）

（634 − 376）÷ 3　　380 − 80 ÷ 5

126 ÷ 9 ÷ 7　　7 × 4 × 36

四、（厦门）动手实践，操作应用。（共 6 分）

1. 量一量，算一算。（4 分）



长 = _____

宽 = _____

面积 = _____

2.

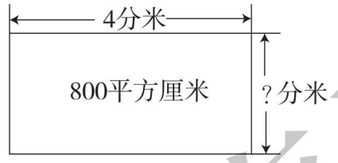

请求出这个长方形的宽。（2 分）

五、走进生活，解决问题。（共 29 分）

1.（厦门）春卷是厦门特色小吃，中山路卖春卷的婆婆说：“我平均每小时能卖 28 个春卷。”如果按每天卖 8 小时计算，一周能卖几个春卷？（4 分）

2.（福清）一辆汽车 14：30 从甲城出发，17：30 到达乙城。已知两城相距 330 千米，汽车平均每小时行多少千米？（4 分）

3.（龙岩）一本连环画 10.5 元，一本百科全书比一本连环画便宜 2.5 元。买一本百科全书要多少元？（4 分）

4.（厦门）一种新鲜蓝莓市场价每千克 152 元，如果在网上拼团购买，3 千克只需 375 元，小雅妈妈拼团买了 3 千克这种蓝莓。平均每千克比市场价便宜多少元？（4 分）

5.（漳州）学校有一间长 12 米、宽 6 米的长方形活动室。

（1）请你在下面的方格纸中画出这间活动室的平面图，并用阴影表示出来。（每 1 个小方格的面积代表 1 平方米）（3 分）

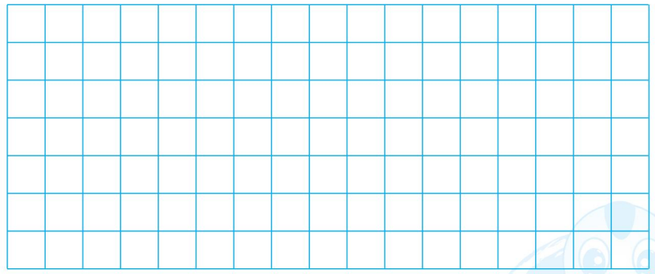

（2）要给这间活动室铺上地砖，如果选用边长是 3 分米的正方形地砖，一共要用多少块？（5 分）

（3）“六一”儿童节，同学们在这间活动室里围了一个最大的正方形来表演节目，那么剩下部分的面积是多少平方米？（5 分）

关注微信公众号“教辅资料站”获取更多学习资料

荣德基 好卷

3年级 数学 下 R版

期末复习冲刺卷

福建省仿真模拟卷（二）

时间：80分钟　满分：100分

题号	一	二	三	四	五	总分
得分						

答题卡下载

姓名　学号　班级　学校　密　封　线

亮点提示：请不要在密封线内答题哦！

一、选一选。（将正确答案的字母填在括号里。每题2分，共20分）

1. 640 ÷ 3 的商是（　　）位数。

A. 一　　B. 两　　C. 三　　D. 不确定

2.（福州）求23个15相加的结果，计算不正确的是（　　）。

A. 23 × 15　　B. 23 × 10 + 23 × 5　　C. 20 × 15 + 3 × 15　　D. 23 + 15

3.（厦门）根据算式 23 × 5 + 4 = 119，可以知道 119 ÷ 5 的余数是（　　）。

A. 1　　B. 2　　C. 3　　D. 4

4. 下列年份中，（　　）是闰年。

A. 1967年　　B. 1998年　　C. 2000年　　D. 2019年

5.（厦门）下图是表示 22 × 13 结果的点子图和竖式计算。

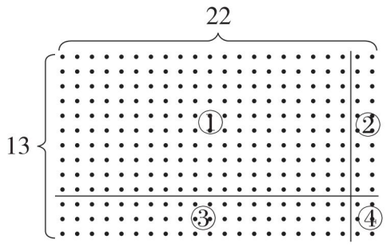

$$\begin{array}{r} 22 \\ \times\ 13 \\ \hline 66 \\ +\boxed{2}2 \\ \hline 286 \end{array}$$

右边竖式计算方框中的“2”表示的是点子图中的（　　）部分。

A. ①　　B. ②　　C. ③　　D. ④

6.（福清）小聪买售价为4.4元的钢笔一支，根据你的生活经验，结合人民币币值的特点，下列付钱方式不合理的是（　　）。

A. 付出4.5元，找回0.1元　　B. 付出5.4元，找回1.0元

C. 付出4.7元，找回0.3元　　D. 付出5元，找回0.6元

7.（龙岩）上午当你面对太阳时，你的影子在（　　）面。

A. 南　　B. 西　　C. 北　　D. 东

8. 小丽2分钟跳绳68下，小东3分钟跳绳99下，他们俩相比，（　　）。

A. 小丽快　　B. 小东快　　C. 一样快

9.（福清）解决“960个苹果，每8个苹果装一盒，每4盒装一箱，一共可以装多少箱？”这个问题时，下面方法错误的是（　　）。

A. 960 ÷ 8 × 4　　B. 960 ÷ 8 ÷ 4　　C. 960 ÷（8 × 4）

10.（龙岩）下面说法不正确的是（　　）

①边长为2米的正方形，它的周长和面积相等。

②18时是下午6时。

③图书馆每天上午8时开馆，下午6时闭馆。图书馆每天开放的时间是12小时。

④900 ÷ 3 ÷ 2 与 900 ÷ 6 的结果相等。

A. ①和④　　B. ②和④　　C. ①和②　　D. ①和③

二、填一填。（第7题2分，其余每空1分，共23分）

1. 填上合适的单位。

三（2）班王宁的身高是1.41（　　），体重是29.4（　　）。

一张单人床的长约200（　　），面积约是3（　　）。

2.（龙岩）在◯里填上“＞”“＜”或“＝”。

2角◯0.5元　　8分米◯0.8米　　0.9元◯1元　　6分米◯4.6分米

3.（漳州）345 ÷ 5，商的最高位是（　　）位，50 × 40 积的末尾有（　　）个零。

4.（厦门）新华书店营业时间如右图，书店是从上午9时开始营业，到晚上（　　）时关门，一天共营业（　　）小时。

营业时间：9：00~21：00

5.（福清）林师傅平均每小时做16个零件，那么工作14小时做多少个零件？在括号里填上合适的数。

$$\begin{array}{r} 16 \\ \times\ 14 \\ \hline 64 \\ 16 \\ \hline 224 \end{array}$$

64……工作（　　）小时做（　　）个零件；

16……工作（　　）小时做（　　）个零件。

6.（厦门）王强从家出发，先向（　　）方向走到超市，再向（　　）方向走到邮局，最后向（　　）方向走到学校，晚上放学回家，他走到邮局时发现自己的数学书忘带了，又回学校去取，这样他比平时放学回家多走了（　　）千米。

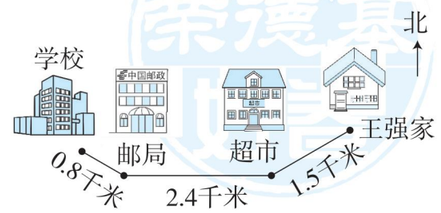

7.（福清）一部电影从晚上7：10开始到晚上9：35结束，用24时计时法表示是从（　　）开始到（　　）结束。这部电影共放映了（　　）小时（　　）分。

8.（龙岩）如图一共有（　　）个长方形。

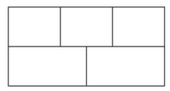

荣德基

关注微信公众号“教辅资料站”获取更多学习资料

三、（厦门）计算挑战。（共23分）

1. 直接写出得数。（每题0.5分，共5分）

43 − 17 =　　25 × 4 =　　270 ÷ 9 =　　408 ÷ 4 =　　2.4 + 3.5 =

12 × 40 =　　55 + 36 =　　12 × 200 =　　48 × 72 ≈　　98 ÷ 9 ≈

2. 列竖式计算，带 * 的要验算。（验算题3分，其余每题2分，共9分）

3.6 + 12.7 =　　46 × 29 =　　403 ÷ 8 =　　*451 ÷ 6 =

3. 脱式计算。（每题3分，共9分）

72 × 12 ÷ 9　　544 ÷ 8 × 25　　（200 − 162）× 44

四、（龙岩）动手操作，我能行。（6分）

1. 画一个面积是12平方厘米的长方形。

2. 画一个周长是12厘米、宽是2厘米的长方形。

（每个长方形的长和宽都是整厘米数，每个小方格的面积都是1平方厘米）

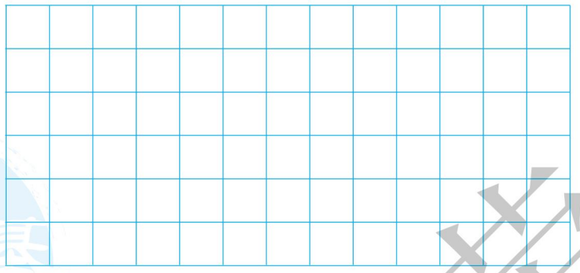

五、走进生活，解决问题。（共28分）

1. （厦门）家乐购超市推行“无塑料袋周”活动，6个分店一天共减少使用塑料袋431个，平均每个分店一天大约节约多少个塑料袋？（5分）

2. 一块正方形菜地的边长是28米，杨爷爷打算将这块菜地分成两块同样大小的长方形，分别种上豆角和西红柿，每块长方形菜地的面积是多少？（6分）

3. （厦门）三年级（1）班雏鹰小队准备到鼓浪屿海底世界游玩，共有大人24人（其中年纪在60岁以上的有5人），儿童有18人，参观海底世界的门票一共要多少元？（5分）

鼓浪屿海底世界票价

成人：90元/人

儿童或60岁以上的老人：45元/人

4. （龙岩）小丽从龙岩到厦门过端午节，准备乘坐13：02的动车（如图）。她从家到火车站要40分钟，从进站到通过检票口需要10分钟，她最迟要在什么时候必须从家出发？请写出你的理由？（5分）



5. （福清）下面是三（1）班同学视力的调查表。

	4.2及以下	4.3～4.6	4.7～4.9	5.0及以上
男生人数	2	3	5	13
女生人数	1	4	6	16

（1）男生中视力在（　　）的人数最多，有（　　）人。（2分）

（2）全班视力在4.3～4.6和4.7～4.9的人数分别是（　　）人和（　　）人。（2分）

（3）视力在5.0及以上是正常的，全班低于5.0的有（　　）人，看了这些数据，你想对这些学生说什么？（3分）

荣德基试卷
荣德基
密
封
线
自己说说
老师点评
家长点评

关注微信公众号“教辅资料站”获取更多学习资料

荣德基 好卷

参考答案及点拨

3年级 数学 下 R版 （大卷）

第 1 单元跟踪检测卷

位置与方向(一)

一、1. A　2. C　3. B　4. D　B　5. D　6. B　7. A
8. B　9. B　10. C

二、1. （1）南　（2）北　（3）东
2. 西南　东南
3. 东　西　西　东　南　北
4. 西　东
5. 南　东
6. 西　东北
7. 西南

三、1.

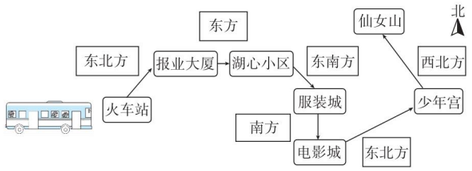

2.



3. （1）

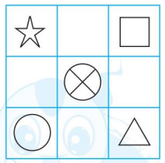

（2）西北　东南　（3）

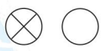

四、1. 西北　西南　西北　东北
【点拨】要找准观察点，观察点不同，方向就可能不同。
2. （1）东北　东南　东（前两个空答案不唯一）
（2）小玲先向东南方向走，再向东北方向走，最后向东走，就可以找到小松鼠。（答案不唯一）
3. （1）西　东
（2）西南　北
（3）美食城　小森家、大学城
4. （1）东　南　西南　西南
（2）东北　东北　北　西　西北

第 2 单元跟踪检测卷

除数是一位数的除法

一、1. C　2. B　3. C　4. A　5. D　6. A　7. D
8. A　C　9. C　10. C

二、1. 70　200
2. 三　百
3. 2　0
4. 171
5. 720　90
6. 390　3900　39000　7. 8　511
8. ＞　＜　＜　＞　＝　＞
9. 16　5　10. 49
11. 3　4　【点拨】被除数的最高位与除数 4 比较，小于 4 且与 4 挨得最近，是商是两位数的最大填法，等于 4 是商是三位数的最小填法。

三、1. 45　24　50　300　120　400　0　80　20　20　50　20
2. 726 ÷ 5 = 145……1　　308 ÷ 3 = 102……2

```
  145
5)726
  5
  22
  20
  26
  25
   1
```

```
  102
3)308
  3
   8
   6
   2
```

＊500 ÷ 7 = 71……3

```
  71
7)500
  49
  10
   7
   3
```

验算：

```
  71
 ×  7
 497
 +  3
 500
```

436 ÷ 4 = 109　　643 ÷ 8 = 80……3

```
  109
4)436
  4
  36
  36
   0
```

```
   80
8)643
  64
   3
```

＊864 ÷ 8 = 108

```
  108
8)864
  8
  64
  64
   0
```

验算：

```
  108
 ×   8
 864
```

3. （806 − 198）÷ 4　　808 ÷ 4 + 395
= 608 ÷ 4　　= 202 + 395
= 152　　= 597
536 ÷（4 × 2）
= 536 ÷ 8
= 67

四、1. 672 ÷ 4 = 168（米）
954 ÷ 6 = 159（米）
168 ＞ 159　答：小强跑得快。
2. 618 ÷ 2 = 309（节）
618 ÷ 3 = 206（节）
309 + 206 = 515（节）
答：三年级和二年级同学一共回收了 515 节旧电池。
3. （1）30 × 8 = 240（千克）　240 × 5 = 1200（元）
答：爱心水果店的苹果卖了 1200 元钱。
（2）240 ÷ 4 = 60（千克）
答：爱心水果店平均每天卖了 60 千克苹果。
4. （1）98 ÷ 7 = 14（个）√
98 ÷ 9 = 10（块）……8（元）　×
136 ÷ 5 = 27（瓶）……1（元）　×
136 ÷ 6 = 22（瓶）……4（元）　×
136 ÷ 8 = 17（瓶）　√
答：买的食物是汉堡，买了 14 个；买的饮品是小分子水，买了 17 瓶。
【点拨】紧扣关键词语“正好”，此时，钱数除以单价，商是整数且没有余数。
（2）136 + 98 = 234（元）
234 ÷ 9 = 26（块）
答：可以买 26 块。
（3）略

第 3 单元跟踪检测卷

复式统计表

一、1. B　2. A　3. A
二、1. 2　4　2. 3　28
3. 笔记本　4. 125
5. 13
三、1. 8　5　3　2. 14　8　6
3. 6　2　4　4. 略
四、1.《快乐星球》
2.《快乐星球》
3.《天眼神虎》　4. 略
五、1. （1）

本班级数 \ 日期	星期一	星期二	星期三	星期四
一班	42	26	37	45
二班	30	29	38	42

（2）一　二　（3）四
2. （1）2　8　7　3　2　7　8　2
（2）60 下 ~ 79 下　80 下 ~ 99 下
（3）略
六、1. 喜羊羊　467 票
2. 懒羊羊　8 票
3. 美羊羊　4. 喜羊羊
5. 392 ÷ 8 = 49
答：网络投票中，喜羊羊的票数是懒羊羊的 49 倍。

第 4 单元跟踪检测卷

两位数乘两位数

一、1. A　2. C　3. D　4. C　5. B　6. A　7. C　8. B
9. B　10. C
二、1. 20 × 3 = 60　4 × 3 = 12　60 + 12 = 72
2. 8400
3.

```
  16
 × 29
 144 ——→ 个位上的（9）乘16，得（144）。
 32  ——→ 十位上的（2）乘16，得（320）。
464 ——→ 把（144）与（320）加起来得（464）。
```

4. 540　1536　5. 990　6. 三　百
7.（答案不唯一）30　20　3　200
8. 729　1443　9. 3
10. ＞　＜　＝
11. 12

三、1. 185　81　920　2170　480　8400　2500　5400
2. 13 × 22 = 286　　34 × 21 = 714

```
  13
 × 22
 26
 26
286
```

```
  34
 × 21
 34
 68
714
```

23 × 32 = 736　　27 × 26 = 702

```
  23
 × 32
 46
 69
736
```

```
  27
 × 26
 162
 54
702
```

35 × 29 = 1015　　78 × 41 = 3198

```
  35
 × 29
 315
 70
1015
```

```
  78
 × 41
 78
 312
3198
```

3. 53 ×（98 − 49）　　735 ÷ 5 ÷ 3
= 53 × 49　　= 147 ÷ 3
= 2597　　= 49
6000 − 67 × 85
= 6000 − 5695
= 305

四、1. 24 × 96 = 2304（元）
答：要花 2304 元。
2. 30 × 40 × 8 = 9600（元）
答：8 年一共捐款 9600 元钱。
3. 48 ÷ 2 ÷ 3 = 8（吨）
答：平均每辆车每天运 8 吨。
4. 35 × 35 = 1225（千米）
760 + 400 = 1160（千米）　1225 ＞ 1160
答：35 小时能到达。
5. 25 ÷ 3 = 8（元）……1（元）
60 ÷ 8 = 7（元）……4（元）
面包车便宜
1 + 13 = 14（人）　14 ÷ 8 = 1（辆）……6（人）
6 ÷ 3 = 2（辆）　2 × 25 = 50（元）
50 ＜ 60　60 + 50 = 110（元）
答：租 1 辆面包车、2 辆小汽车合算。最少需要 110 元。

关注微信公众号“教辅资料站”获取更多学习资料

6. （1）35×16=560（元）　36×16=576（元）
37×16=592（元）　38×16=608（元）
答：一个篮球的价格可能是35元，36元或37元。
【点拨】当条件给的不是一个确定数时，就要考虑多种情况，并且要全面，不能遗漏。
（2）600−40=560（元）
35×16=560（元）
答：一个篮球的价格是35元。

期中检测卷

一、1. A　2. C　3. B　4. B　5. D　6. B　7. C　8. B
9. B　10. D

二、1. 西南　商场　南
2. 69　648
3. 1　【点拨】算出58×45的积，再判断积的末尾0的个数。
4. 3
5. 6　5
6. <　>　<　=
7. 45

三、1. 120　300　84　80　32　0　17　90　40　0
2. 208÷2=104　　35×47=1645

```
  104          35
2)208        × 47
  2          245
  8        1 40
  8        1645
  0
```

＊856÷7=122……2

```
  122          122
7)856        ×   7
  7          854
  15       +   2
  14         856
  16
  14
   2
```

验算：

76×38=2888　　59×64=3776

```
   76           59
 × 38         × 64
  608          236
 228          354
2888         3776
```

＊552÷8=69

```
  69           69
8)552        ×  8
  48         552
  72
  72
   0
```

验算：

3. 645÷3÷5　　49×9÷7
=215÷5　　=49÷7×9
=43　　=7×9
=63

（902−284）÷6
=618÷6
=103

四、1. 西北　西南　北
2. 百鸟园　海豚表演馆　金鱼池　标本展览馆
3. 西南　东北
4. 东北　西北　西南　西北

五、1.

册数/册 ＼ 种类 / 月份	文艺书	科技书	工具书
六	195	232	173
七	241	380	93

2. 科技　工具　七
3. 200
4. 380−232=148（册）
答：七月份售出的科技书比六月份售出的科技书多148册。

六、1. 65×18=1170（元）
1170>1000
答：体育老师带1000元不够。
2. 320÷2÷4=40（本）
答：平均每层放40本书。
3. （1）738÷9=82
答：一部学习机的价钱是一个文具盒的82倍。
（2）556÷4=139（元）　738−139=599（元）
答：一部学习机比一台复读机贵599元。
【点拨】两步应用题不要误做成了一步应用题。
（3）略

第5单元跟踪检测卷

面积

一、1. B　2. C　3. C　4. B　5. D　6. C　7. D　8. B

二、1. 平方米　平方分米　平方厘米
2. 平方厘米　平方厘米　平方米　平方分米　米　厘米
3. 16　4. 476平方米　90米
5. 256平方米　【点拨】先求正方形的边长，64÷4=16（米），再求其面积，16×16=256（平方米）。
6. 98
7. 9　70　60　500
8. 17　14

三、1. <　>　=　<
2. （1）10+15=25（米）　6+7=13（米）
面积：15×13+10×6=255（平方米）
周长：（25+13）×2=76（米）
（2）面积：28×28=784（平方分米）
周长：28×4=112（分米）
3.

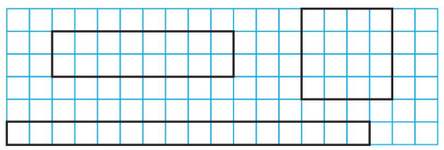

四、1. 10×4=40（分米）　5×4=20（分米）
（40+20）×2=120（分米）
40×20=800（平方分米）
答：这个阳台的周长是120分米，面积是800平方分米。
2. 12÷3=4（米）
4×4=16（平方米）
答：这个养鸡场地的面积是16平方米。
3. 96÷6=16（米）
方法一：16×16×2=512（平方米）
方法二：（16×2）×16=512（平方米）
答：长方形舞台的面积是512平方米。
【点拨】用不同的方法去思考问题，可以提升思维能力。
4. （1）40×2=80（分米）
80×40=3200（平方分米）
3200平方分米=32平方米
答：这间会议室的面积是3200平方分米，合32平方米。
（2）2×2=4（平方分米）
3200÷4=800（块）
答：一共需要800块方砖。
（3）800×12=9600（元）
答：铺完这间会议室一共要用9600元钱。
5.（35−1）÷2=17（米）
（29−1）÷2=14（米）
17×14=238（平方米）
答：每块的面积是238平方米。

第6单元跟踪检测卷

年、月、日

一、1. C　2. C　3. B　4. C　5. B　6. C　7. C　8. B

二、1. 12　4　4月，6月，9月，11月　7　1月，3月，5月，7月，8月，10月，12月
2. 四　91　三　四　91　90
3. （1）9　30　（2）2　29　（3）9　9　（4）12　30
4. 略
5. 早上7：40　8：30　中午12：00　14：00
傍晚6：00　21：00
6. 8　8　12
7. 240　480　1380　3000
8. 40

三、

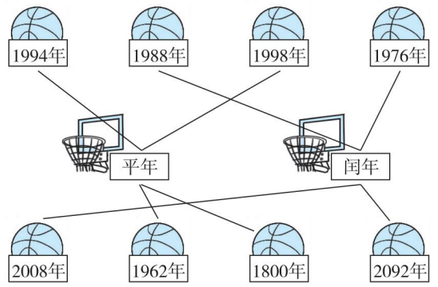

四、1. 制作月历略
（1）五　（2）4　20
2. （1）66
（2）2
（3）3　51

五、1. （1）上午8：30=8：30　下午5：30=17：30
17时30分−8时30分=9小时
答：儿童乐园每天开放9小时。
（2）17时30分−15时40分=1小时50分钟
答：最多还可以玩1小时50分钟。
2. 7时零5分−6时58分=7分钟
300×7=2100（米）
答：李老师家离学校有2100米。
3.（78+44+56+62）÷12=20（千克）
答：三年级学生平均每月收集20千克的废纸。
4. 晚上9：00=21：00　24−21=3（小时）
3小时+6小时30分钟=9小时30分钟
9小时<9小时30分钟<10小时
答：他这一天睡了9小时30分钟，他的睡眠时间够。

第7单元跟踪检测卷

小数的初步认识

一、1. B　2. C　3. B　4. C　5. A　6. A　7. C　8. D
9. D　10. B

二、1. 0.8　1.9　50.7
2. 7.9　十点四　八点六
3. 0.7　0.8　【点拨】此题要填的是一位小数，因此，只有0.7和0.8。
4. $\frac{7}{10}$　0.7
5.

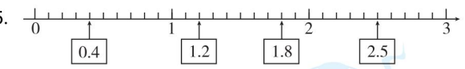

6. 5　3.8　0.6　5　4
7. <　<　=　=　>　>

三、1. 0.8　1.8　5.1　3.2　4.2　8.9
2. 5.6+2.1=7.7

```
  5.6
+ 2.1
  7.7
```

10−4.6=5.4

```
 10.0
 − 4.6
  5.4
```

1.8+4.9=6.7

```
  1.8
+ 4.9
  6.7
```

9.7−2.3=7.4

```
  9.7
− 2.3
  7.4
```

3.5−2.9=0.6

```
  3.5
− 2.9
  0.6
```

15.2+0.9=16.1

```
 15.2
+ 0.9
 16.1
```

四、

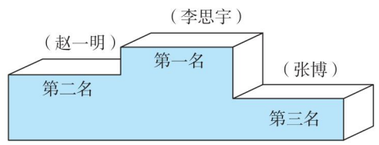

关注微信公众号“教辅资料站”获取更多学习资料

五、1. 38.9 + 14.6 = 53.5（米）

答：C929 的机身长 53.5 米。

2. 10.8 − 4.8 − 3.5 = 2.5（米）

答：还剩下 2.5 米绳子。

3. 10.5 − 3.7 + 10.5 = 17.3（元）

答：两位叔叔今天停车一共花了 17.3 元。

4. （1）熊猫

（2）1.1 + 0.1 = 1.2（吨）

0.5 + 0.3 = 0.8（吨）

1 + 1 = 2（条）

答：至少需要 2 条船。

5. （1）50 − 32.9 = 17.1（元）

9.9 + 5.8 = 15.7（元）

17.1 > 15.7

答：剩下的钱可以买一支钢笔和一根跳绳。

【点拨】因为所有学习用品和体育用品降价促销，所以都按现价去计算。

（2）7.5 − 5.8 = 1.7（元）

5.2 − 4.8 = 0.4（元）

1.7 + 0.4 = 2.1（元）

答：一共可以便宜 2.1 元钱。

（3）（答案不唯一）

现在买一个书包和一支钢笔，一共要花多少钱？

32.9 + 9.9 = 42.8（元）

答：一共要花 42.8 元钱。

第 8 单元跟踪检测卷

数学广角——搭配（二）

一、1. C　2. B　3. C　4. A　5. C　6. A　7. B　8. A　9. D　10. B

二、1. 49，48，94，98，84，89

2. 61，31，81，83，13，63

3. 27，20，70，72

4. 36，39，30，60，63，69，96，90，93　96　30

5. 6

6. 21　【点拨】列式计算是 6 + 5 + 4 + 3 + 2 + 1 = 21（场）。

7. 12

三、1. 20

2. 10

3. 6

四、1. 组成的两位数有 51，54，58，21，24，28，61，64，68。

2. 2 × 3 = 6（种）

答：一共有 6 种不同的方案。

3. 4 × 3 = 12（种）

答：有 12 种不同的选法。

4. （1）4 + 3 + 2 + 1 = 10（场）

答：一共要比赛 10 场。

（2）他们各赢了 2 场。

5. （1）3 + 2 + 1 = 6（种）

答：有 6 种不同的选法。

（2）苹果和草莓、苹果和桃子、苹果和西瓜。

3 × 2 = 6（种）

答：共有 3 种不同的选法；有 6 种不同的送法。

【点拨】选出的 2 种水果分别送给萍萍和芳芳，可以交换，所以就有 3 × 2 = 6（种）。

期末复习冲刺卷

模块过关卷（一）　计算

一、1. C　2. C　3. D　4. A　5. C　6. D　7. C　8. C　9. B　10. B

二、1. 731　150　2. 9801　3. 3　三

4. 5.3　2.5　0.3　0.8　1.3　1.8

5. 18　6. 15；25　晚上 7：30

7. 8970

8. 三　8　【点拨】因为被除数的最高位是 9，而要使商的中间有 0，说明被除数的十位上的数小于除数，因此最大可以填 8。

9. <　>　>　<

三、1. 0.3　0.8　130　0　90　1200　3600　60　230　0　302　3200

2. 56 × 29 = 1624

$$\begin{array}{r} 56 \\ \times\ 29 \\ \hline 504 \\ 112 \\ \hline 1624 \end{array}$$

8.7 − 2.9 = 5.8

$$\begin{array}{r} 8.7 \\ -\ 2.9 \\ \hline 5.8 \end{array}$$

∗578 ÷ 8 = 72……2

$$\begin{array}{r} 72 \\ 8\overline{)578} \\ 56 \\ \hline 18 \\ 16 \\ \hline 2 \end{array}$$

验算：

$$\begin{array}{r} 72 \\ \times\ 8 \\ \hline 576 \\ +\ 2 \\ \hline 578 \end{array}$$

12.4 + 9.3 = 21.7

$$\begin{array}{r} 12.4 \\ +\ 9.3 \\ \hline 21.7 \end{array}$$

43 × 61 = 2623

$$\begin{array}{r} 43 \\ \times\ 61 \\ \hline 43 \\ 258 \\ \hline 2623 \end{array}$$

∗276 ÷ 4 = 69

$$\begin{array}{r} 69 \\ 4\overline{)276} \\ 24 \\ \hline 36 \\ 36 \\ \hline 0 \end{array}$$

验算：

$$\begin{array}{r} 69 \\ \times\ 4 \\ \hline 276 \end{array}$$

3. 360 ÷ 5 ÷ 6
= 72 ÷ 6
= 12

3500 − 65 × 26
= 3500 − 1690
= 1810

10 − 2.7 + 3.3
= 7.3 + 3.3
= 10.6

（503 − 188）÷ 5
= 315 ÷ 5
= 63

四、1. 8 + 4.5 = 12.5（吨）

12.5 < 13.2　答：它超载了。

2. 612 ÷ 2 = 306（只）

915 ÷ 3 = 305（只）

306 > 305

答：啄木鸟的本领强。

3. 850 − 16 × 28 = 402（千克）

答：还剩 402 千克大米。

4. 225 ÷ 3 = 75（个）

半小时 = 30 分钟　75 × 30 = 2250（个）

9 × 12 × 21 = 2268（个）

答：半小时能打 2250 个字，这篇文稿一共有 2268 个字。

5. （1）下午 1：30 是 13：30。

13：30 − 10：20 = 3 小时 10 分钟

答：路上用了 3 小时 10 分钟。

（2）145 分钟 = 2 小时 25 分钟

1 时 30 分 + 40 分钟 + 2 小时 25 分钟 = 4 时 35 分

答：小术是下午 4 时 35 分到达梅园的。

【点拨】一、转化时间不要错，二、别忘了要加上在松林观赏的 40 分钟，三、时间加法不要算错，满了 60 向前一位进 1。

模块过关卷（二）　统计与几何

一、1. D　2. B　3. A　D

4. B　【点拨】虽然三角形的面积没学，但能观察分析出阴影三角形的面积是正方形面积的一半。

5. A　6. C　7. A　8. D　9. D

二、1. 东　西

2. （1）平方厘米　（2）平方分米　（3）米　平方米　（4）平方厘米　平方分米

3. 900　9

4. 南　西南

5. 4500　【点拨】注意单位的不同。

6. 7

7. 6　36

8. 900　7　80　4000

三、1. （1）东　西　（2）西　南　（3）北　西

2.

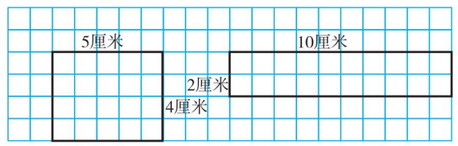

【点拨】画法不唯一。

四、1. 半小时 = 30 分钟

60 × 3 × 30 = 5400（平方米）

答：压路机行驶半小时能压 5400 平方米的路面。

2. 拼成长方形周长最长。

24 × 2 = 48（厘米）

（48 + 12）× 2 = 120（厘米）

48 × 12 = 576（平方厘米）

答：拼成长方形周长最长，是 120 厘米，它的面积是 576 平方厘米。

3. （1）11 × 8 = 88（平方米）

答：这个院子的面积是 88 平方米。

（2）2 × 2 = 4（平方分米）88 平方米 = 8800 平方分米

8800 ÷ 4 = 2200（块）

答：需要铺 2200 块。

4. 38 − 23 = 15（厘米）　15 × 15 = 225（平方厘米）

答：第二个正方形的面积是 225 平方厘米。

5. （1）喜羊羊　机器猫

（2）42 + 36 + 50 + 28 = 156（人）

56 + 42 + 63 + 25 = 186（人）

答：一年级一共调查了 156 人，二年级一共调查了 186 人。

（3）（答案不唯一）一年级调查的学生人数比二年级少多少人？

186 − 156 = 30（人）

答：一年级调查的学生人数比二年级少 30 人。

模块过关卷（三）　实际应用

一、1. C　2. C　3. A　4. B　5. A　6. A　7. D　8. D　9. A　【点拨】先求甲的边长，列式计算是 36 ÷ 4 = 9（厘米），再求乙的边长，列式计算是 9 − 3 = 6（厘米），最后求乙的面积，列式计算是 6 × 6 = 36（平方厘米）。

10. B

二、1. 31　207

2. 55.8　39.4

3. 22 × 10 × 6

4. 21　4

5. 4　6

6. 12

7. 32　【点拨】因为小飞的妈妈和小飞过生日的次数一样多，说明妈妈不是 1 年过 1 次生日，所以妈妈是 2 月 29 日出生的，4 年过 1 次生日，而小飞是每年过 1 次生日，所以小飞是 24 ÷（4 − 1）= 8（岁），妈妈是 8 × 4 = 32（岁）。

8. 4　9. >　<　>　>　=

三、1. 480　4000　80　202　40　300　50　0.4

2. 42.3 + 5.9 = 48.2

$$\begin{array}{r} 42.3 \\ +\ 5.9 \\ \hline 48.2 \end{array}$$

75 × 57 = 4275

$$\begin{array}{r} 75 \\ \times\ 57 \\ \hline 525 \\ 375 \\ \hline 4275 \end{array}$$

∗522 ÷ 4 = 130……2

$$\begin{array}{r} 130 \\ 4\overline{)522} \\ 4 \\ \hline 12 \\ 12 \\ \hline 2 \end{array}$$

验算：

$$\begin{array}{r} 130 \\ \times\ 4 \\ \hline 520 \\ +\ 2 \\ \hline 522 \end{array}$$

荣德基 期末卷

关注微信公众号“教辅资料站”获取更多学习资料

四、1. （1）58.2－39.6＝18.6（元）

答：一盏台灯比一瓶洗发水贵18.6元。

（2）58.2＋39.6－7.4＝90.4（元）

答：一共要付90.4元。

2. 下午3：45是15：45。

15：45－10：45＝5小时

180÷5＝36（千米）

答：张叔叔骑摩托车平均每小时行驶36千米。

3. 15×24÷9＝40（箱）

答：需要买40箱。

4. 20×40×4＝3200（千克）

答：这些黄豆能做3200千克豆腐。

5. （1）6×4×100÷（4×4）＝150（块）

答：一共需要150块方砖。

（2）12×13＝156（块）　156＞150

答：够。

模块过关卷（四）　常考易错题综合

一、1. B　2. B　3. A

4. A　【点拨】先算6月份展销的天数，30－28＋1＝3（天），再把6月份、7月份、8月份展销的天数相加，列式计算是3＋31＋5＝39（天）。

5. C　6. D　7. C　8. D　9. D　10. A

二、1. 东北

2. 7　【点拨】要使商的个位是0，说明被除数百位和十位合成的数5□除以3没有余数。

3. 15　45

4. 256　【点拨】列式为16×4×4。

5. 略

6. 12

7. 600

8. 49平方分米　18分米　【点拨】剩余纸是长方形，长、宽分别是7分米、2分米。

9. 分米　$\frac{7}{10}$　0.7

10. ＞　＞　＝　＜　＞　＜

三、1. 960　50　0　660　2.7　5.4　70　1200

2. 42×65＝2730　　20－9.9＝10.1

```
  4 2          2 0.0
× 6 5        - 9.9
-----        -----
  2 1 0        1 0.1
2 5 2
-----
2 7 3 0
```

＊623÷7＝89

```
    8 9
7 ) 6 2 3
  5 6
  ---
    6 3
    6 3
    ---
      0
```

验算：

```
  8 9
×   7
-----
6 2 3
```

3. 15.6＋8.9－4.7　　756÷9－21

＝24.5－4.7　　＝84－21

＝19.8　　＝63

（136－87）×52

＝49×52

＝2548

四、1. 1.5＋1.8＝3.3（米）

答：这卷彩带比原来短了3.3米。

2. 416÷2÷4＝52（人）

答：平均每排应站52人。

3. （1）（48＋22）×2＝140（米）

答：这块水稻试验田的周长是140米。

（2）48×22×3＝3168（千克）

答：这块水稻试验田一共施肥3168千克。

4. （1）8×8＝64（平方米）

答：原来这块菜地的面积是64平方米。

（2）8＋5＝13（米）

8＋2＝10（米）

13×10－64＝66（平方米）

答：李叔叔今年扩建了66平方米的菜地。

【点拨】扩建的面积＝现在的面积－原来的面积。

5. （1）下午5：30＝17：30

17：30－8：30＝9小时

答：植物园每天开放9小时。

（2）17×3＋62×11＝733（元）

答：买门票要733元。

（3）（3＋62）÷6＝10（条）……5（人）

10＋1＝11（条）

答：至少要租11条船。

期末测试卷

一、1. C　2. B　3. C　4. B　5. A　6. B　7. A　8. D

9. B　10. B

二、1. 41　369

2. 6　7　8　9　3. 2　3

4. 1996年，2020年

5. 360

6. 6　86×83

7. 30.7

8. 北　西北

9. 42000

10. 24　5　5.2　36　3000　14.5

三、1. 0.8　70　720　7.6　2700　30　1500　50

2. 49×26＝1274　　10.3－1.8＝8.5

```
  4 9          10.3
× 2 6        - 1.8
-----        -----
  2 9 4        8.5
  9 8
-----
1 2 7 4
```

＊518÷5＝103……3

```
    1 0 3
5 ) 5 1 8
  5
  ---
    1 8
    1 5
    ---
      3
```

验算：

```
    1 0 3
×       5
---------
  5 1 5
+       3
---------
  5 1 8
```

3. 79×23－569　　21×14÷3

＝1817－569　　＝294÷3

＝1248　　＝98

（854－105）÷7

＝749÷7

＝107

四、13－5＝8（厘米）　5×5＋8×8＝89（平方厘米）

答：图中阴影部分的面积是89平方厘米。

五、1. 105×2×15＝3150（元）

答：半个月能挣3150元。

2. 15＋12×34＝423（人）

48×10＝480（个）　480＞423

答：客车上的座位够坐。

3. （1）17：00－9：00＝8小时

答：动物园每天开放时间是8小时。

（2）下午3：30＝15：30

17：00－15：30＝1小时30分

答：她最长可以玩1小时30分。

4. （1）45.5＋29.6＝75.1（元）

答：一共需要75.1元。

（2）45.5－29.6＝15.9（元）

答：一个玩具熊比一架玩具飞机便宜15.9元。

（3）（答案不唯一）一个玩具熊比一辆玩具坦克贵多少元？

29.6－18.9＝10.7（元）

答：一个玩具熊比一辆玩具坦克贵10.7元。

5. （1）《三字经》　《诗经》

（2）94　85

福建省仿真模拟卷（一）

一、1. D　2. B　3. B　4. A　5. C　6. C　7. D　8. C

9. C　10. D

二、1. 平方厘米　米　小时　平方米

2. 12　还在

3. 十　80

4. 0.6　1.5　2.8　标出位置略

5. 西　北

6. 6　5

7. 66

8. $\frac{5}{10}$　0.5

9. 3600

10. 5　12

三、1. 1500　750　12　330　2.6　1　21　720　2000　60　90　3800

2. 2030　2.2　206　60……5　竖式略　验算略

3. 86　364　2　1008

四、1. 3厘米　2厘米　3×2＝6（平方厘米）

2. 800平方厘米＝8平方分米

8÷4＝2（分米）

五、1. 28×8×7＝1568（个）

答：一周能卖1568个春卷。

2. 17时30分－14时30分＝3小时

330÷3＝110（千米）

答：汽车平均每小时行110千米。

3. 10.5－2.5＝8（元）

答：买一本百科全书要8元。

4. 375÷3＝125（元）　152－125＝27（元）

答：平均每千克比市场价便宜27元。

5. （1）略

（2）12×6＝72（平方米）　3×3＝9（平方分米）

72平方米＝7200平方分米　7200÷9＝800（块）

答：一共要用800块。

（3）（12－6）×6＝36（平方米）

答：剩下部分的面积是36平方米。

福建省仿真模拟卷（二）

一、1. C　2. D　3. D　4. C　5. A　6. C　7. B　8. A

9. A　10. D

二、1. 米　千克　厘米　平方米

2. ＜　＝　＜　＞

3. 十　3

4. 9　12

5. 4　64　10　160

6. 西南　正西　西北　1.6

7. 19时10分　21时35分　2　25

8. 10

三、1. 26　100　30　102　5.9　480　91　2400　3500　11

2. 16.3　1334　50……3　75……1

竖式略　验算略

3. 96　1700　1672

四、略

五、1. 431÷6≈72（个）

答：平均每个分店一天大约节约72个塑料袋。

2. 28÷2＝14（米）

28×14＝392（平方米）

答：每块长方形菜地的面积是392平方米。

3. （5＋18）×45＝1035（元）

（24－5）×90＝1710（元）

1035＋1710＝2745（元）

答：参观海底世界的门票一共要2745元。

4. 40分钟＋10分钟＝50分钟

13时02分－50分钟＝12时12分

所以她最迟要在12时12分必须从家出发。

5. （1）5.0及以上　13　（2）7　11

（3）21　注意保护视力。（答案不唯一，合理即可）

荣德基

关注微信公众号“教辅资料站”获取更多学习资料

好卷

小卷

- 周测培优卷（11套）
- 专项能力提升卷（7套）



3年级 数学

下（R版）

荣德基好卷

关注微信公众号“教辅资料站”获取更多学习资料



目录

周测培优卷

除数是一位数的除法计算能力检测卷 …… 01

除数是一位数的除法应用能力检测卷 …… 03

复式统计表的能力检测卷 …… 05

两位数乘两位数的计算能力检测卷 …… 07

两位数乘两位数的应用能力检测卷 …… 09

面积和面积单位的能力检测卷 …… 11

面积的应用能力检测卷 …… 13

年、月、日的能力检测卷 …… 15

小数初步认识的计算能力检测卷 …… 17

小数初步认识的应用能力检测卷 …… 19

数学广角——搭配(二)的能力检测卷 …… 21

专项能力提升卷

计算的挑战 …… 23

简单的空间想象能力 …… 25

巧求时间和日期 …… 27

小数的拔高综合练习 …… 29

面积的逆运算 …… 31

巧妙搭配 …… 33

应用题的综合练习 …… 35

参考答案及点拨 …… 37

荣德基好卷

关注微信公众号“教辅资料站”获取更多学习资料

专项能力提升卷 1 计算的挑战

班级_____ 姓名_____ 得分_____ 时间：40分钟 满分：100分

一、我会填。（每题4分，共28分）

1. 36的50倍是（　　），354是6的（　　）倍。
2. 把541个苹果装在6个筐里，每筐大约装（　　）个。
3. 一个数除以7，商是135，有余数。这个数最大是（　　），最小是（　　）。
4. 小方在计算除法时，错把除数3看成了8，结果得到的商是48。正确的商是（　　）。
5. 一本书4元，王老师带了100元钱，最多可以买到（　　）本书。
6. 如图所示，小华从学校经过街心花园到少年宫，一共有（　　）条路可以走。



7. 括号里最大能填几？

（　　）×20＜800

79×（　　）＜4000

543÷（　　）＞60

724÷8＞（　　）

二、我会选。（把正确答案的字母填在括号里。每题3分，共15分）

1. 在下面的乘法算式中，积是四位数的是（　　）。

A. 35×23　　B. 46×31

C. 19×49

2. 要使345×□的积是一个三位数，□里最大填（　　）。

A. 2　　B. 3

C. 4　　D. 5

3. 一根水管锯成2段要2分钟，锯成6段要（　　）分钟。

A. 6　　B. 10

C. 12　　D. 24

4. 除以5没有余数的是（　　）。

A. 324　　B. 435　　C. 299

5. 下列说法正确的是（　　）。

A. 小数位数越多，小数就越大。

B. 一个三位数除以6，余数最大是7。

C. 25和48的积末尾有两个0。

三、计算挑战。（共39分）

1. 口算。（每题1分，共12分）

80÷4=	420÷7=
606÷3=	32×20=
840÷4=	0÷298=
1.6+2.4=	0.8+2.6=
1−0.7=	21×89≈
92×48≈	632÷9≈

关注微信公众号“教辅资料站”获取更多学习资料

2. 列竖式计算。（每题 3 分，共 18 分）

36 × 58 =　　962 ÷ 4 =

307 ÷ 2 =　　85 × 26 =

3. 6 + 8. 9 =　　10 − 2. 7 =

3. 计算下面各题。（每题 3 分，共 9 分）

68 × 45 − 436

56 ÷ 2 × 26

（481 + 239）÷ 5

四、走进生活，解决问题。（共 18 分）

1. 每箱 24 瓶，一共有多少瓶？（8 分）



2. 福建省青少年体育学校要举行足球赛，共有 6 个队参赛，每个队再分成 4 个小组，每个小组有 8 人。

（1）参赛队员来自 3 个年级，每个年级有 4 个班，平均每个班有多少人参赛？（4 分）

（2）如果参赛的男生有 80 人，你能提出一个数学问题并解答吗？（6 分）

荣德基试卷
荣德基好卷

关注微信公众号“教辅资料站”获取更多学习资料

专项能力提升卷 2　简单的空间想象能力

班级_____　姓名_____　得分_____　时间：40分钟　满分：100分

一、我会填。（第5题6分，其余每题4分，共22分）

1. 成语“四面八方”中的“四面”指的是（　　）、（　　）、（　　）、（　　），“八方”除了“四面”所说的四个方向外，还包括（　　）、（　　）、（　　）、（　　）。
2. 李叔叔登上泰山顶观看日出，他面向太阳，前面是（　　），左面是（　　）。
3. 搜救队向西南方向进行搜救，途中接到指令要求按原路返回，搜救队应向（　　）方向行进。
4. 红红面向北，她向右转，这时她面向（　　），她的后面是（　　）。
5. 在（　　）里填上合适的单位。
一个花坛的面积大约是30（　　）。
大树高约14（　　）。
一枚邮票的面积大约是4（　　）。
文具盒长20（　　）。
数学书封面的面积约是500（　　）。
一个花圃的面积约是30（　　）。

二、我会选。（把正确答案的字母填在括号里。每题3分，共12分）

1. 明明站在操场上，如果影子在他的北面，那么太阳在他的（　　）面。
A. 东　　B. 南　　C. 北

2. 用2个边长是1厘米的正方形拼成的长方形的面积是（　　）。
A. 2平方厘米　　B. 8平方厘米
C. 6平方厘米

3. 在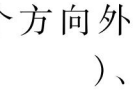

和

中（单位：厘米），下列说法正确的是（　　）。
A. 周长相等　　B. 面积相等
C. 周长和面积都相等

4. 下列说法正确的是（　　）。
A. 我面对傍晚的太阳，左手边是南面。
B. 边长是4米的正方形的面积和周长相等。
C. 一个正方形的边长扩大为原来的3倍，它的面积也扩大为原来的3倍。

三、我会按要求解决。（共36分）

1. 我会做。（12分）
下面是三个小朋友设计的作品，你知道这些作品的面积分别是多少吗？（每个小方格代表1平方厘米）

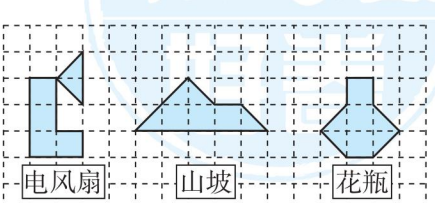

（　　）（　　）（　　）

荣德基好卷

关注微信公众号“教辅资料站”获取更多学习资料

2. 我会求。(12 分)

下面每个图形的面积分别是多少平方厘米？它们的周长呢？（每个□代表 1 平方厘米）



周长：（　　）

面积：（　　）

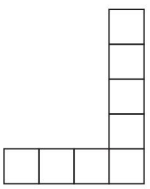

周长：（　　）

面积：（　　）

3. 我会说。

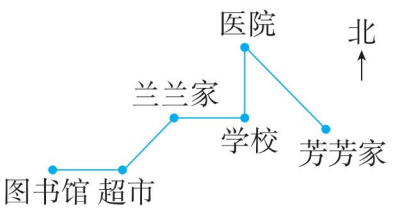

（1）描述兰兰从家到图书馆的路线。(6 分)

（2）描述芳芳从家到兰兰家的路线。(6 分)

四、走进生活，解决问题。(共 30 分)

1. 一个长方形球场，宽是 60 米，长是宽的 3 倍。聪聪沿这个球场跑 3 圈跑了多少米？(10 分)

2. 一块长方形的菜地，它的一面靠墙，三面用 40 米的篱笆围了起来。菜地的宽是多少米？占地面积是多少平方米？(10 分)

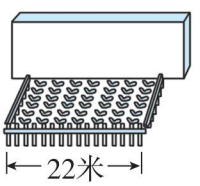

3. 芳芳不小心将一张长方形的方格纸撕掉了一部分，如下图所示，这张纸原来的面积是多少平方厘米？

(10 分)



荣德基好卷

关注微信公众号“教辅资料站”获取更多学习资料

专项能力提升卷 3 巧求时间和日期

班级_____ 姓名_____ 得分_____ 时间：40分钟 满分：100分

一、我会填。（每题 4 分，共 32 分）

1. 小宇每天晚上 8:30 睡觉，第二天早上 6:00 起床，他睡了（　　）小时（　　）分钟。
2. 童童的书法培训从 7 月 10 日开始，8 月 10 日结束，培训了(　　)天。
3. 笑笑每次过生日都要种一棵“生日树”，她在 16 岁生日那天种下了第四棵“生日树”，她是（　　）月（　　)日出生的。
4. 电影院 18:30 开始放映电影，要想提前 20 分钟入场，入场时刻是（　　）。
5. 明明 16:40 放学，17 时 10 分到家，明明路上用了（　　）分钟。
6. 一个主持人播音了 40 分钟，结束时间是 20:30，他是从（　　）开始播音的。
7. 观察下图，此处禁止停车的时间是（　　）小时。



7:30–20:30

8. 一个科学考察队乘船去考察，5 月 30 日出发，7 月 12 日返回。这次考察用了（　　）天。

二、我会选。（把正确答案的字母填在括号里。每题 3 分，共 9 分）

1. 16 时用普通计时法表示为（　　）。

A. 4 时

B. 下午 16 时

C. 下午 4 时

2. 下面是闰年的是（　　）。

A. 1800 年

B. 2016 年

C. 1919 年

3. 8 月份有（　　）。

A. 4 个星期余 2 天

B. 4 个星期余 3 天

C. 4 个星期余 1 天

三、我会按要求解决。（共 20 分）

1. 我会猜。（8 分）



荣德基好卷

关注微信公众号“教辅资料站”获取更多学习资料

2. 我会找。

2019年▾ 〈 3月 ▾ 〉

一	二	三	四	五	六	日
				1 廿五	2 廿六	3 廿七
4 廿八	5 廿九	6 惊蛰	7 二月	8 妇女节	9 初三	10 初四
11 初五	12 植树节	13 初七	14 初八	15 消费者权益日	16 初十	17 十一
18 十二	19 十三	20 十四	21 春分	22 十六	23 十七	24 十八
25 十九	26 二十	27 廿一	28 廿二	29 廿三	30 廿四	31 廿五

（1）这是（　　）年（　　）月的日历。（2分）

（2）这个月有（　　）天，植树节是星期（　　）。（2分）

（3）消费者权益日是（　　）月（　　）日，这天是星期（　　）。（3分）

（4）二十四节气中的“春分”是（　　）月（　　）日。（2分）

（5）这个月的第一天的前一天是（　　）月（　　）日，这天是星期（　　）。（3分）

四、走进生活，解决问题。（共39分）

1. 2019年“幸福之城　七彩童绘”迎新春少儿画展从1月23日开始到2月15日结束，共展出了多少天？（9分）

2. 2019年9月9日是星期一，10月9日是星期几？（10分）

3. 博物馆全天开放多长时间？（10分）

开放时间
9:00–12:00
14:00–16:30



4. 15:10开始比赛，进行了175分钟，请你算出比赛结束的时刻。（10分）



荣德基好卷

关注微信公众号“教辅资料站”获取更多学习资料

专项能力提升卷 4　小数的拔高综合练习

班级_____　姓名_____　得分_____　时间：40分钟　满分：100分

一、我会填。（每空 1 分，共 27 分）

1. 在括号里填上合适的小数。

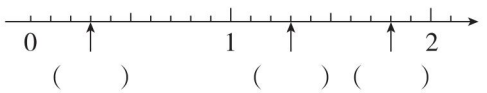

（　　）　（　　）（　　）

2. 找规律填数。

（1）1.4，1.8，2.2，（　　），（　　）。

（2）5.6，5.4，5.2，（　　），（　　）。

3. 用 9，2，0 和小数点，组成最大的一位小数是（　　）；组成最小的两位小数是（　　）。

4. 按从小到大的顺序排列下面各数。

0.56　0.65　5.06　5.60　6.05

（　　）＜（　　）＜（　　）＜（　　）＜（　　）

5. 用 7，6 和两个 0 及小数点组成的小数中，只读一个零的小数是（　　），不读零又是最大的小数是（　　）。

6. 6 角 8 分 = （　　）元

9 分 = （　　）元

3 厘米 = （　　）分米

47 厘米 = （　　）米

5 分米 2 厘米 = （　　）米

7. 在□里填上合适的数。

3.1 ＜□＜3.5

8 ＞□＞7

6. □＜□.3＜7.1

3.1 ＞□.9 ＞□.9

二、我会选。（把正确答案的字母填在括号里。每题 3 分，共 12 分）

1. 用 3，4，5 和“.”一共能组成（　　）个小数部分是一位的小数。

A. 3　　B. 6　　C. 9

2. 一个文具盒 7.6 元，比一本日记本贵 1.8 元，买一个文具盒和一本日记本共需要（　　）元。

A. 12.4　　B. 9.4　　C. 13.4

3. 李老师记录了某年春、夏、秋、冬四个季节每千克黄瓜的平均价格，分别是 5.6 元、2.4 元、3.6 元、12.4 元。这 4 个平均价格中最贵与最便宜相差（　　）元。

A. 6.8　　B. 10　　C. 8.8

4. 下列说法正确的是（　　）。

A. 小数都比 1 小。

B. 小数由两部分组成，整数部分和小数部分。

C. 0.8 和 0.9 之间有无数个小数。

三、计算挑战。（共 24 分）

1. 口算。（每题 1 分，共 8 分）

0.6 + 1.2 =	4.5 − 1.1 =
2.9 − 1.5 =	1.8 − 0.8 =
1.7 + 3.3 =	2 − 1.9 =
1 − 0.2 =	2 + 2.2 =

荣德基好卷

关注微信公众号“教辅资料站”获取更多学习资料

2. 列竖式计算。（每题 4 分，共 16 分）

2.8 + 3.7 =　　12.3 − 9.6 =

40 − 9.3 =　　7.5 + 4.5 =

四、我会写。（共 18 分）

1. 用 5，6，0，1 这几个数字和小数点写出没有重复数字的小数。（写出所有情况）

（1）小于 1 而小数部分是三位的小数。（6 分）

（2）大于 6 而小数部分是三位的小数。（6 分）

2. 用 2，5，4 和小数点，可以组成不同的小数，请你把它们都写出来。（每个数字都要用并且只能用一次）（6 分）

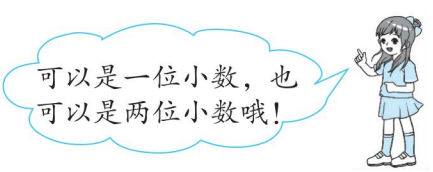

五、走进生活，解决问题。（共 19 分）

1.



饼干3.6元　果冻2.8元　冰激凌4.5元

乐乐拿 10 元钱，买这些零食够吗？（6 分）

2. 小狗去离自己家 1.8 千米的小兔家做客，它走了 0.6 千米后发现自己忘给小兔带礼物了，又回家去取，这样小狗到小兔家一共要走多少千米？（6 分）

3. 小军在计算小数减法时，把被减数 15.3 看成了 153，结果得 144.1，正确的差是多少？（7 分）

荣德基好卷

关注微信公众号“教辅资料站”获取更多学习资料

专项能力提升卷 5　面积的逆运算

班级_____　姓名_____　得分_____　时间：40分钟　满分：100分

一、我会填。（每题 4 分，共 24 分）

1. 长方形的面积是 30 平方厘米，长是 6 厘米，宽是（　　）厘米。

2. 一根铁丝长 96 厘米，围成了一个正方形（如下图），这个正方形的边长是（　　）厘米，它的面积是（　　）平方厘米。



3. 一个长方形的周长是 20 厘米，宽是 3 厘米，长是（　　）厘米。

4. 一个长方形的面积是 40 平方分米，长是 8 分米，宽是（　　）分米，周长是（　　）分米。

5. 正方形的边长是（　　）分米，面积是 4 平方分米，周长是（　　）分米。

6. 在◯里填上“＞”“＜”或“＝”。

8 平方米◯96 平方分米

7 平方米◯700 平方分米

150 平方厘米◯2 平方分米

600 平方厘米◯6 平方米

二、我会选。（把正确答案的字母填在括号里。第 3 题 6 分，其余每题 3 分，共 18 分）

1. 正方形的面积是 64 平方米，求其边长的正确方法是（　　）。

A. 64 ÷ 2

B. 64 ÷ 4

C. 把 64 写成两个相同的数相乘，其中一个数就是它的边长

2. 一个长方形的长是（　　）米，宽是 6 米，周长是 80 米。

A. 68　　B. 34　　C. 14

3. 用若干个 1 平方厘米的小正方形拼成下面的图形，周长最长的是（　　），面积最大的是（　　）。

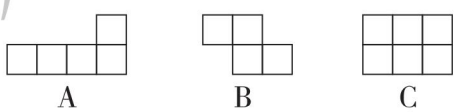

4. 如图，王奶奶开垦了一块正方形的菜地，一面靠墙，其他三面围篱笆。篱笆长 36 米，这块菜地的面积是（　　）平方米。

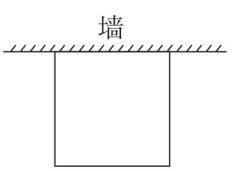

A. 81　　B. 144　　C. 48

5. 下列说法错误的是（　　）。

A. 把两个小长方形拼成一个大长方形（不重叠），面积不变。

B. 边长是 6 厘米的正方形，面积是 24 平方厘米。

C. 周长相等的两个正方形，面积也一定相等。

荣德基好卷

关注微信公众号“教辅资料站”获取更多学习资料

三、我会求。（单位：厘米）（共 18 分）

1. 求下面图形的周长。（6 分）

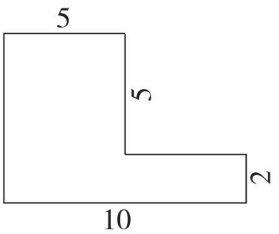

2. 求下面图形的面积。（6 分）

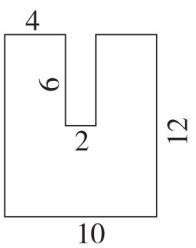

3. 求下面阴影部分的面积。（6 分）

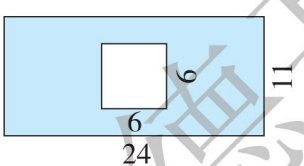

四、走进生活，解决问题。（共 40 分）

1. 一块正方形的玉米地，周长是 48 米，每平方米收玉米 1 千克，一共可收玉米多少千克？（10 分）

2. 一个长方形的周长是 270 米，长是 80 米，它面积的一半是多少平方米？（10 分）

3. 一段铁丝，可以围成一个长 40 米、宽 20 米的长方形。现在用它围成一个正方形，这个正方形的面积是多少平方米？（10 分）

4. 有两个大小一样的长方形，长 3 分米，宽 15 厘米。

（1）拼成一个长方形，它的面积是多少？周长是多少？（5 分）

（2）拼成一个正方形，它的面积是多少？周长是多少？（5 分）

荣德基好卷

关注微信公众号“教辅资料站”获取更多学习资料

专项能力提升卷 6　巧妙搭配

班级_____　姓名_____　得分_____　时间：40分钟　满分：100分

一、我会填。（第 7 题 6 分，其余每题 3 分，共 30 分）

1. 用 0，1，3，5 可以组成（　　）个没有重复数字的两位数。
2. 用 4，7，9 组成的没有重复数字的两位数有（　　）个。
3. 用 4，3，0，9 组成的没有重复数字且个位是单数的两位数有（　　）个。
4. 四个好朋友聚会，如果每两个好朋友合 1 张影，一共需要合（　　）张影。
5. 有 5 种水果，如果每 2 种水果做成 1 种水果拼盘，一共可以做成（　　）种水果拼盘。
6. 数一数，下图中共有（　　）条线段。



7. 5 个好朋友春节那天打电话拜年，每 2 个好朋友通一次电话，一共要通（　　）次电话，列式计算是（　　）。
8. 有 6 个人参加乒乓球小组赛，如果每 2 个人比赛 1 场，一共要比赛（　　）场。
9. 今天学校的早餐有 3 种菜，4 种主食。乐乐从菜和主食中各选一种搭配自己的早餐，一共有（　　）种不同的搭配方法。

二、我会选。（把正确答案的字母填在括号里。每题 4 分，共 12 分）

1. 有 4 个小朋友，每 2 个小朋友握一次手，一共可以握（　　）次手。

A. 4　　B. 6　　C. 8

2. 书架上有 2 本不同的科技书和 4 本不同的文艺书，聪聪想借 2 本不同类的书，共有（　　）种不同的借法。

A. 20　　B. 15　　C. 8

3. 有一些小伙伴在下围棋，每 2 个小伙伴下一局，一共下了 6 局，共有（　　）个小伙伴在下围棋。

A. 3　　B. 4　　C. 6

三、我会求。（10 分）

下面的鞋子和帽子有多少种不同的搭配方式？连一连。



荣德基好卷

关注微信公众号“教辅资料站”获取更多学习资料

四、走进生活，解决问题。（共 48 分）

1. 每次取 2 张，取出的钱共有哪几种情况？请写出来。（8 分）

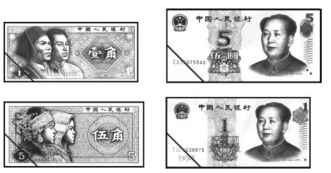

2. 东山实验小学要从 3 名男同学和 2 名女同学中各选出 1 名同学代表学校参加“少儿戏曲大赛”，有多少种不同的组队方案？（9 分）



3. 欢欢从文具店到体育场一共有多少条路线？（10 分）

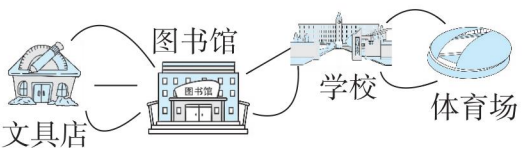

4. 如果一辆客运汽车从杭州到北京共要停靠 5 个车站（包括杭州和北京），一共要为这条线路准备多少种不同的车票？（考虑往返）（10 分）

（杭州—上海—苏州—南京—北京）

5. 友谊第一，比赛第二。



（1）动物运动会上，5 只动物互相握手问好，一共要握几次手？（5 分）

（2）接下来，它们进行乒乓球单打比赛，每 2 只动物都要比赛一场，一共要比赛几场呢？（6 分）

荣德基好卷

关注微信公众号“教辅资料站”获取更多学习资料

专项能力提升卷 7　应用题的综合练习

班级_____　姓名_____　得分_____　时间：40分钟　满分：100分

一、我会填。（第9题4分，其余每题2分，共20分）

1. 24的5倍是（　　）；（　　）是75个68相加的和。
2. 明明家平均每个月交69元电话费，一年要交（　　）元。
3. 一个数的5倍是300，这个数是（　　）。
4. 一本书9元，聪聪有100元，最多可以买到（　　）本书。
5. 一个正方形木板的周长是320厘米，它的面积是（　　）平方分米。
6. 小刚带20元去买玩具，用去7元2角，小刚还剩（　　）元。（用小数表示）
7. 小军和3个人下棋，每2个人下一局，一共要下（　　）局。
8. 2019年4月25日至27日，第二届“一带一路”国际合作高峰论坛在北京举行，这个月在第（　　）季度，这个季度共有（　　）天。
9. 在◯里填上“＞”“＜”或“＝”。

315 ÷ 3 ◯ 104　　0.5元◯5角

5.8分米◯50厘米

45 × 20 ◯ 1000

二、我会选。（把正确答案的字母填在括号里。每题3分，共12分）

1. 一块橡皮一个面的面积约是6（　　）。

A. 平方米　　B. 平方分米

C. 平方厘米

2. 要使□$\overline{)872}$的商的中间出现0，□内应该填（　　）。

A. 7　　B. 8　　C. 9

3. 聪聪每分钟能打34个字，1小时能打（　　）个字。

A. 340　　B. 3400　　C. 2040

4. 下列说法不正确的是（　　）。

A. 东北风把旗杆上的红旗吹向西南方向。

B. 12 × 58的积的末尾没有0。

C. 0不能作被除数。

三、计算挑战。（共28分）

1. 口算。（每题1分，共8分）

63 ÷ 3 =　　0 ÷ 8 =

630 ÷ 6 =　　7 + 0.6 =

100 ÷ 4 =　　39 × 51 ≈

1.5 − 0.6 =　　398 ÷ 8 ≈

2. 列竖式计算，带☆的要验算。（每题3分，共12分）

9.3 + 15.8 =　　☆36 × 25 =

10 − 5.7 =　　264 ÷ 6 =

荣德基好卷

关注微信公众号“教辅资料站”获取更多学习资料

3. 计算下面各题。（每题4分，共8分）

$46+54\times25$　　$(60+384)\div6$

四、走进生活，解决问题。（共40分）

1. 为了参加悠悠球比赛，张老师买了4盒悠悠球，每盒2个，一共花了96元。每个悠悠球多少元？（8分）

2.

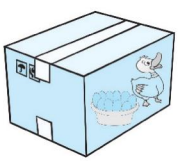

每箱6.5千克
每千克9.8元

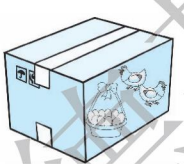

每箱5.5千克
每千克7.2元

（1）一箱鸭蛋和一箱鸡蛋一共重多少千克？（4分）

（2）买1千克鸭蛋比买1千克鸡蛋贵多少钱？（4分）

3. 从甲地到乙地的路程是3080千米，一架飞机从上午9时开始起飞，每小时行驶780千米，下午1时飞机能到达乙地吗？（8分）

4. 一个长方形果园长60米，宽15米，每棵桃树占地面积是9平方米。平均每棵桃树产桃25千克，这个果园共产桃多少千克？（8分）

5. 下面是三年级两个班的同学最喜欢的体育项目人数统计表。

项目 / 人数 / 班级	跳绳	踢毽子	乒乓球	羽毛球
三（1）班	20	16	15	12
三（2）班	15	14	10	18

（1）这些项目中哪个最受同学欢迎？是多少人？（4分）

（2）两个班的同学最喜欢跳绳的比最喜欢乒乓球的多几人？（4分）

荣德基好卷

关注微信公众号“教辅资料站”获取更多学习资料

周测培优卷 1

除数是一位数的除法计算能力检测卷

一、1. 24　4　40　40　40

2. 18　93

3. 4　【点拨】不用计算，从前面的式子可以直接得出余数是 4。

4. 8　224

5. 百　146

6. ＞　＜　＝　＜

二、1. C　2. B　3. B　4. B

三、1. 32　21　60　100　30　50　600　700

2. 9　80　90　50　40　80　30　100

3. 91 ÷ 7 = 13　　☆374 ÷ 7 = 53……3

```
  13          53
7)91        7)374
 7          35
 21         24
 21         21
  0          3
```

验算：

```
  53
×  7
 371
+  3
 374
```

926 ÷ 4 = 231……2

```
  231
4)926
 8
 12
 12
  6
  4
  2
```

☆824 ÷ 9 = 91……5

```
  91
9)824
 81
 14
  9
  5
```

验算：

```
  91
×  9
 819
+  5
 824
```

4. 64 × 6 ÷ 8　　294 ÷ 7 + 678
= 384 ÷ 8　　= 42 + 678
= 48　　= 720
（681 − 136）÷ 5　　493 − 354 ÷ 6
= 545 ÷ 5　　= 493 − 59
= 109　　= 434

5.

```
    1 0 7
6) 6 4 2
   6
     4 2
     4 2
       0
```

```
      6 5
4) 2 6 2
   2 4
     2 2
     2 0
       2
```

【点拨】从已知的数入手，要熟知除法竖式每步的运算过程。

四、1. （103 + 97）÷ 5 = 40（组）

答：能分成 40 组。

2. 225 ÷ 9 = 25（天）

4 × 7 = 28（天）

28 ＞ 25

答：这本书小刚 4 周能看完。

周测培优卷 2

除数是一位数的除法应用能力检测卷

一、1. 三

2. 58　【点拨】求出 472 里面有几个 8，要使结果是 8，就从几里面减 1。

3. 689　4. 0 ~ 2

5. 209　812

6. 90

7. 小力

二、1. B　2. C　3. B　4. B

三、1. 70　70　80　90　10　30　60　80

2. 980 ÷ 7 = 140

```
  140
7)980
 7
 28
 28
  0
```

☆564 ÷ 7 = 80……4

```
  80
7)564
 56
  4
```

验算：

```
   7
× 80
560
+  4
564
```

3. 720 ÷ 5 ÷ 6　　102 × 6 ÷ 4
= 144 ÷ 6　　= 612 ÷ 4
= 24　　= 153

关注微信公众号“教辅资料站”获取更多学习资料

四、1. 724 ÷ 6 = 120（束）……4（枝）

答：可以扎成 120 束，还剩 4 枝。

2. 56 ÷ 4 = 14（元）

108 ÷ 9 = 12（元）

答：买②号箱梨比较合算。

3. 2 × 100 = 200（元）

200 − 14 = 186（元）

186 ÷ 3 = 62（元）

答：平均每个足球 62 元。

4. 56 × 4 = 224（元）

（320 − 224）÷ 3 = 32（元）

答：每个排球 32 元。

5. 412 ÷ 4 − 95 = 8（下）

答：三（2）班平均每名选手比三（1）班多跳 8 下。

6. （1）706 ÷ 7 ≈ 100（人）

答：这周（7 天）平均每天大约接待游客 100 人。

（2）平均每个月大约采野生食用菌多少千克？

598 ÷ 5 ≈ 120（千克）

答：平均每个月大约采野生食用菌 120 千克。（答案不唯一）

【点拨】要根据题目中的条件提有价值的问题。

周测培优卷 3

复式统计表的能力检测卷

一、1. 橘子　苹果　2. 小猴　小狗

3. 148

二、说法正确的是 1，2。

三、1. 7 月份空调销售量最多，洗衣机销售量最少。

2. 112 − 82 = 30（台）

答：这两个月电视机的销售量相差 30 台。

3. 108 + 268 = 376（台）

答：这两个月空调销售量最好，一共有 376 台。

4. 空调　电视机

5. 多进些空调，少进些电视机。（答案不唯一）

四、1.

组别＼等级（人数）	优 90 ~ 100	良 70 ~ 89	及格 60 ~ 69
第一组	2	2	0
第二组	3	1	0

2. 2　0　3. 3　1

4. 4 × 9 = 36（人）

答：这个班一共有 36 人。

五、1.

班级＼数量／本（种类）	连环画	故事书	科技书
三（1）班	30	45	10
三（2）班	45	15	40

2. 85　100

3. 三(1)班多补充一些科技书，三(2)班多补充一些故事书。（答案不唯一）

六、

性别＼年级（人数）	三	四	五	六
男生	35	46	49	62
女生	28	37	43	58

三年级：35 + 28 = 63（人）

四年级：46 + 37 = 83（人）

五年级：49 + 43 = 92（人）

六年级：62 + 58 = 120（人）

周测培优卷 4

两位数乘两位数的计算能力检测卷

一、1. 个　个

2. 21 × 34、12 × 54　23 × 44、21 × 54

3. 1000　840

4. 121　132　143　231　473　682

5. <　>　>　<

二、1. A　2. B

3. C　【点拨】算出 25 × 65 的积，再判断积的最高位是什么位。

4. A

三、1. 770　840　390　2700　900　90　1600　2700　1000　2000

关注微信公众号“教辅资料站”获取更多学习资料

2. $67\times54=3618$

$$\begin{array}{r} 67 \\ \times\ 54 \\ \hline 268 \\ 335 \\ \hline 3618 \end{array}$$

$25\times24=600$

$$\begin{array}{r} 25 \\ \times\ 24 \\ \hline 100 \\ 50 \\ \hline 600 \end{array}$$

$53\times36=1908$

$$\begin{array}{r} 53 \\ \times\ 36 \\ \hline 318 \\ 159 \\ \hline 1908 \end{array}$$

$39\times49=1911$

$$\begin{array}{r} 39 \\ \times\ 49 \\ \hline 351 \\ 156 \\ \hline 1911 \end{array}$$

$32\times46=1472$

$$\begin{array}{r} 32 \\ \times\ 46 \\ \hline 192 \\ 128 \\ \hline 1472 \end{array}$$

$67\times28=1876$

$$\begin{array}{r} 67 \\ \times\ 28 \\ \hline 536 \\ 134 \\ \hline 1876 \end{array}$$

3. $98\div2\times46$
$=49\times46$
$=2254$

$896\div2\div4$
$=448\div4$
$=112$

$34\times(18+24)$
$=34\times42$
$=1428$

$54\times18-398$
$=972-398$
$=574$

4.

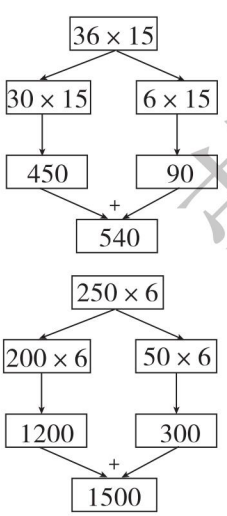

四、1.（1）$56\times24=1344$（瓶）

答：一共购进 1344 瓶橙汁。

（2）$56\times15=840$（千克）

答：这些橙汁一共有 840 千克。

2.（1）$32\times12=384$（千克）

$25\times16=400$（千克）

答：苹果购进 384 千克，香蕉购进 400 千克。

（2）1 吨 = 1000 千克

$384+400=784$（千克）

$1000>784$

答：用载重 1 吨的货车一次能运回来。

3. $25\div3=8$（元）……1（元）

$60\div8=7$（元）……4（元）

面包车便宜

$14\div8=1$（辆）……6（人）

$6\div3=2$（辆）

$2\times25=50$（元）

50 元 < 60 元

$60+50=110$（元）

答：租 1 辆面包车、2 辆小汽车合算。最少需要 110 元。

【点拨】当余下 6 人时，有两种方案，可以租 2 辆小汽车，也可以再租 1 辆面包车，但 60 元 > 50 元，因此选择租 2 辆小汽车比较合算。

周测培优卷 5

两位数乘两位数的应用能力检测卷

一、1. 2000　1500

2. 3　3

3. 1248

4. 6

5. 1078　【点拨】比最小的三位数小 2 的数是 100 − 2 = 98，比最大的一位数大 2 的数是 9 + 2 = 11。

6. $8\times15\times12$

二、1. B　2. C　3. C

三、1. 2700　600　390　8800　3000　1560

2. $59\times19=1121$　　$82\times38=3116$

$$\begin{array}{r} 59 \\ \times\ 19 \\ \hline 531 \\ 59 \\ \hline 1121 \end{array}$$

$$\begin{array}{r} 82 \\ \times\ 38 \\ \hline 656 \\ 246 \\ \hline 3116 \end{array}$$

四、1. $56\times15=840$（克）

答：半个月（15 天）能吞食食物 840 克。

2. $39\times29=1131$（台）

答：培训学校一共有 1131 台计算机。

荣德基好卷

关注微信公众号“教辅资料站”获取更多学习资料

3. $12 \times 4 \times 3 = 144$（元）

$150 > 144$

答：买 4 盒乒乓球够。

4. 方法一：$488 \div 4 \div 2 = 61$（棵）

方法二：$488 \div (4 \times 2) = 61$（棵）

答：平均每组植树 61 棵。

【点拨】题目要求用两种方法解答，别只用一种方法解答。

5. $56 \div 8 = 7$（元）

7 元 < 8 元 6 角

答：买第一种钢笔比较便宜。

6.（1）$4 \times 9 \times 25 = 900$（只）

答：李大爷家一共养了 900 只母鸡。

（2）$900 \div (5 \times 6) = 30$（个）

答：养鸡场一天需要 30 个蛋托。

周测培优卷 6

面积和面积单位的能力检测卷

一、1. 表面　封闭图形的大小

2. 大　小

3. □

4. 平方厘米　平方米

5. 1 平方米

6. 平方厘米　平方分米

7. 5

二、1. C

2. B　【点拨】5 个相同的正方形拼成长方形只能横着拼一排或竖着拼一列。

3. B　4. A

三、1.（1）6　9　8　6

（2）12　16

2. 平方米　平方厘米　厘米　平方米

平方米　平方分米

3. 周长：18 厘米　面积：8 平方厘米

周长：18 厘米　面积：8 平方厘米

4. 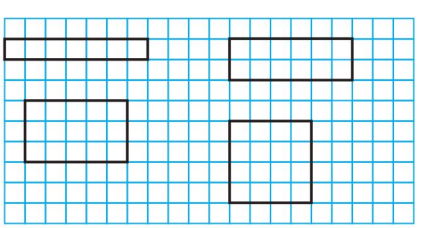

周长/厘米	16	16	16	16
面积/平方厘米	7	12	15	16

周长相等的长方形和正方形相比较，正方形的面积大

5. $1 + 3 + 5 + 7 = 16$（个）

$16 \times 4 = 64$（平方厘米）

答：这个图形的面积是 64 平方厘米。

【点拨】先求出图中面积是 4 平方厘米的正方形的个数。

周测培优卷 7

面积的应用能力检测卷

一、1. 100　2. 24　2400

3. 12 平方厘米　10 平方厘米

4. 800　60　1400　8　6

5. 12

二、1. C　2. C　3. C　4. C

三、周长：$26 \times 4 = 104$（分米）

面积：$26 \times 26 = 676$（平方分米）

周长：$4 + 4 = 8$（米）

$(10 + 8) \times 2 = 36$（米）

面积：$4 \times 8 + 6 \times 4 = 56$（平方米）

四、1. $12 - 4 = 8$（分米）

$12 \times 8 = 96$（平方分米）

$(12 + 8) \times 2 = 40$（分米）

答：它的面积是 96 平方分米，周长是 40 分米。

2. $280 \div 4 = 70$（厘米）

$70 \times 70 = 4900$（平方厘米）

答：这块正方形丝巾的面积是 4900 平方厘米。

3.（1）$75 \times 54 = 4050$（平方厘米）

答：这块长方形木板的面积是 4050 平方厘米。

（2）$4050 - 54 \times 54 = 1134$（平方厘米）

答：锯下正方形后，剩下木板的面积是 1134 平方厘米。

4. $50 \times 30 - 4 \times 4 = 1484$（平方米）

答：种菜的面积是 1484 平方米。

【点拨】长方形地的面积 − 中间正方形池塘的面积 = 种菜的面积。

崇德基好卷

关注微信公众号“教辅资料站”获取更多学习资料

5. $9\times9-6\times6=45$（平方米）

45 平方米 = 4500 平方分米

$4500\div9=500$（块）

答：需要 500 块。

【点拨】先用大正方形面积减小正方形面积求出需要铺大理石贴图的面积，并注意单位的转化。

周测培优卷 8

年、月、日的能力检测卷

一、1. 60　7　100

2. 21

3. 3　1

4. 10 时　17：30　1 时　23：20

5. 平　181

6. 18　30

7. 10　【点拨】12 − 9 = 3（小时），3 + 7 = 10（小时）。

二、1. C　2. B　3. C　4. C

三、

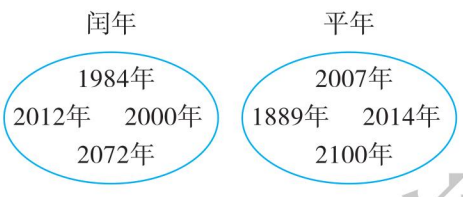

四、

2019年2月						
日	一	二	三	四	五	六
					1	2
3	4	5	6	7	8	9
10	11	12	13	14	15	16
17	18	19	20	21	22	23
24	25	26	27	28		

五、1. 105 分 = 1 时 45 分

17 时 30 分 + 1 时 45 分 = 19 时 15 分

答：比赛 19：15 结束。

2. 31 − 25 + 1 = 7（天）

7 + 12 = 19（天）

19 > 18

答：2019 年 9 月 12 日牛奶不能喝。

【点拨】算经过了多少天，别忘了要加 1。

3. （1）11：30 − 7：30 = 4 小时

6：20 − 2：30 = 3 小时 50 分

4 小时 + 3 小时 50 分 = 7 小时 50 分

答：王师傅一天工作 7 小时 50 分。

（2）下午 2 时 30 分 = 14 时 30 分

14 时 30 分 − 11 时 30 分 = 3 小时

答：王师傅中午可以休息 3 小时。

4. 112 ÷ 8 = 14（天）

31 − 18 + 1 = 14（天）

答：9 月 1 日前她能看完这本书。

5. （1）每天共有 7 个班次。

【点拨】可以先完成第（2）小题中的表格，再回答第（1）小题。也可以列式计算：12：00 − 3：25 = 8 小时 35 分，8 小时 35 分 + 9 小时 25 分 = 18 小时，18 ÷ 3 + 1 = 7（个）。

（2）

班次	1	2	3	4	5	6	7
发车时间	3：25	6：25	9：25	12：25	15：25	18：25	21：25

周测培优卷 9

小数初步认识的计算能力检测卷

一、1. （1）六点三七

（2）零点九零

（3）二十五点五零

2. 18　19　1　0

3. 0.1　0.7　1.7　7.1

4. =　<　<　>

5. （1）2.2　2.5

（2）8　7.8

二、1. B　2. C　3. A

三、1. 7.9　0.7　3.6　5.9　1.6　7　5.7　8.7

2. $0.4+9.9=10.3$　　$8-3.9=4.1$

$$\begin{array}{r} 0.4 \\ +\ 9.9 \\ \hline 10.3 \end{array}\qquad \begin{array}{r} 8.0 \\ -\ 3.9 \\ \hline 4.1 \end{array}$$

$8.6-2.7=5.9$　　$3.8+4.9=8.7$

$$\begin{array}{r} 8.6 \\ -\ 2.7 \\ \hline 5.9 \end{array}\qquad \begin{array}{r} 3.8 \\ +\ 4.9 \\ \hline 8.7 \end{array}$$

$7.5+2.5=10$　　$20-3.8=16.2$

$$\begin{array}{r} 7.5 \\ +\ 2.5 \\ \hline 10.0 \end{array}\qquad \begin{array}{r} 20.0 \\ -\ 3.8 \\ \hline 16.2 \end{array}$$

关注微信公众号“教辅资料站”获取更多学习资料

四、1. 0.6 > 0.3　0.23 < 0.32

2.

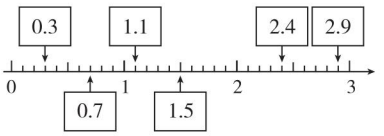

3.

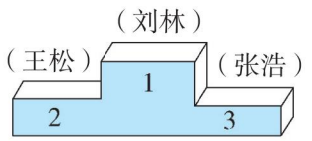

100米短跑领奖台

五、1. 12.8 + 2.6 = 15.4（吨）

15.4 > 15

答：这辆车装满货物时不能过桥。

2.（1）8.5 + 6.8 = 15.3（元）

答：买一本《小画家》和一本《童话故事》共需要15.3元。

（2）8.5 − 3.4 = 5.1（元）

答：最贵的书与最便宜的书相差5.1元。

【点拨】求最贵的书与最便宜的书相差多少元，就是用题中最大数减最小数。

（3）买3本不同的书最少花多少钱？

4.8 + 6.8 + 3.4 = 15（元）

答：买3本不同的书最少花15元钱。（答案不唯一）

周测培优卷 10

小数初步认识的应用能力检测卷

一、1. $\frac{5}{10}$　0.5　$\frac{32}{100}$　0.32　1.76

2. 1.2

3. 小萍

4. 1.7　6.3

5. 0.8　0.7　4.3　2.7

6. 40.04　【点拨】先写出4004，再根据要求确定小数点的位置。

二、1. B　2. A　3. C

三、1. 3.6　5.5　1.6　4.8　9.7　4.8　5.6　1.6

2. 4.7 + 2.9 = 7.6　　13.6 + 1.8 = 15.4

$$\begin{array}{r} 4.7 \\ +\ 2.9 \\ \hline 7.6 \end{array} \qquad \begin{array}{r} 13.6 \\ +\ 1.8 \\ \hline 15.4 \end{array}$$

四、1. 36.7 − 13.6 = 23.1（千米）

答：鲸鱼每小时比企鹅快23.1千米。

2. 2.4 + 0.5 + 0.5 = 3.4（千米）

答：这样他到单位一共要走3.4千米。

3.（1）2.8 + 5.6 + 6.5 = 14.9（元）

14.9 < 15

答：钱够。

（2）6.8 − 6.5 = 0.3（元）

15 − 14.9 = 0.1（元）

0.3 > 0.1

答：钱不够。

4. 6 − 3 = 3（千米）

13 + 2.3 + 2.3 + 2.3 = 19.9（元）

19.9 + 1 = 20.9（元）

答：她应付车费20.9元。

【点拨】“每增加1千米增加2.3元”，一共增加了3千米，因此要加3个2.3元。

5.（1）3.3 + 7.6 = 10.9（千米）

答：从小明家经过邮局再到火车站，这条路最近，要走10.9千米。

（2）3.3 + 4.3 = 7.6（千米）

3.7 + 2.8 = 6.5（千米）

6.5 < 7.6

答：从邮局经过商场再到银行，这条路最近，是6.5千米。

周测培优卷 11

数学广角——搭配（二）的能力检测卷

一、1. 4　87　70　17

2. 9　【点拨】符合条件的数有43，93，73，37，47，97，39，49，79。

3. 8　4. 6　5. 10

6. 18　【点拨】列式计算为：3 + 2 + 1 = 6（条），2 + 1 = 3（条），6 × 3 = 18（个）。

7. 8　8. 15

二、1. C　2. B　3. C　4. A　5. A

三、1. 1 + 3 = 4（克）　1 + 9 = 10（克）

1 + 27 = 28（克）　3 + 9 = 12（克）

3 + 27 = 30（克）　9 + 27 = 36（克）

答：可以称出6种不同质量的物体，分别是4克、10克、28克、12克、30克、36克。

荣德基好卷

关注微信公众号“教辅资料站”获取更多学习资料

2. 一张：50 元、20 元、5 元

两张：50 + 20 = 70（元）

50 + 5 = 55（元）

20 + 5 = 25（元）

三张：50 + 20 + 5 = 75（元）

3 + 3 + 1 = 7（种）

答：取出的钱有 50 元、20 元、5 元、70 元、55 元、25 元、75 元 7 种情况。

3. 4 + 3 + 2 + 1 = 10（场）

答：一共要比赛 10 场。

4. （1）3 × 3 = 9（种）

答：有 9 种不同的点菜方法。

（2）2 + 1 = 3（种）

3 × 3 = 9（种）

答：有 9 种不同的点菜方法。

期末复习冲刺卷

专项能力提升卷 1　计算的挑战

一、1. 1800　59

2. 90

3. 951　946　【点拨】这个数最大是 135 × 7 + 6 = 951；最小是 135 × 7 + 1 = 946。

4. 128

5. 25

6. 8

7. 39　50　9　90

二、1. B

2. A

3. B　【点拨】锯成 2 段要 2 分钟，说明锯 1 次要 2 分钟；锯成 6 段，要锯 5 次，要 5 × 2 = 10（分钟）。

4. B

5. C

三、1. 20　60　202　640　210　0　4　3.4　0.3　1800　4500　70

2. 36 × 58 = 2088　　962 ÷ 4 = 240……2

$$\begin{array}{r} 36 \\ \times\ 58 \\ \hline 288 \\ 180 \\ \hline 2088 \end{array}$$

$$\begin{array}{r} 240 \\ 4\overline{)962} \\ 8 \\ \hline 16 \\ 16 \\ \hline 2 \end{array}$$

307 ÷ 2 = 153……1　　85 × 26 = 2210

$$\begin{array}{r} 153 \\ 2\overline{)307} \\ 2 \\ \hline 10 \\ 10 \\ \hline 7 \\ 6 \\ \hline 1 \end{array}$$

$$\begin{array}{r} 85 \\ \times\ 26 \\ \hline 510 \\ 170 \\ \hline 2210 \end{array}$$

3.6 + 8.9 = 12.5　　10 − 2.7 = 7.3

$$\begin{array}{r} 3.6 \\ +\ 8.9 \\ \hline 12.5 \end{array}$$

$$\begin{array}{r} 10.0 \\ -\ 2.7 \\ \hline 7.3 \end{array}$$

3. 68 × 45 − 436　　56 ÷ 2 × 26

= 3060 − 436　　= 28 × 26

= 2624　　= 728

（481 + 239）÷ 5

= 720 ÷ 5

= 144

四、1.（10 + 12）× 24 = 528（瓶）

答：一共有 528 瓶。

2.（1）8 × 4 × 6 = 192（人）

192 ÷ 3 ÷ 4 = 16（人）

答：平均每个班有 16 人参赛。

【点拨】用 192 ÷ 3 ÷ 4 有意义，而不能用 192 ÷ 4 ÷ 3，算式就没有意义。

（2）（答案不唯一）参赛的女生有多少人？

192 − 80 = 112（人）

答：参赛的女生有 112 人。

专项能力提升卷 2　简单的空间想象能力

一、1. 东　南　西　北　东北　西北　东南　西南

2. 东　北　【点拨】观看日出，面向太阳时，前面是东，右面是南，左面是北，后面是西。

3. 东北

4. 东　西

5. 平方米　米　平方厘米　厘米　平方厘米　平方米

二、1. B　2. A

3. A

4. A

荣德基好卷

关注微信公众号“教辅资料站”获取更多学习资料

三、1. 5 平方厘米　5 平方厘米　5 平方厘米

2. 12 厘米　5 平方厘米

18 厘米　8 平方厘米

3. （1）兰兰从家向西南方向走到超市，再向西走到图书馆。

（2）芳芳从家向西北方向走到医院，再向南走到学校，最后向西走到兰兰家。

四、1. 60 × 3 = 180（米）

（180 + 60）× 2 × 3 = 1440（米）

答：聪聪沿这个球场跑 3 圈跑了 1440 米。

【点拨】别忘了“跑 3 圈”这个条件。

2. （40 − 22）÷ 2 = 9（米）

22 × 9 = 198（平方米）

答：菜地的宽是 9 米，占地面积是 198 平方米。

3. 8 × 4 = 32（平方厘米）

答：这张纸原来的面积是 32 平方厘米。

专项能力提升卷 3　巧求时间和日期

一、1. 9　30

2. 32

3. 2　29

4. 18；10

5. 30

6. 19；50

7. 13　8. 44

二、1. C　2. B

3. B　【点拨】8 月份有 31 天，用 31 ÷ 7 = 4（个）……3（天）。

三、1. 1　8　9　13

2. （1）2019　3

（2）31　二

（3）3　15　五

（4）3　21

（5）2　28　四

四、1. 31 − 23 + 1 + 15 = 24（天）

答：共展出了 24 天。

【点拨】1 月是大月，有 31 天。

2. 31 ÷ 7 = 4（个）……3（天）

答：10 月 9 日是星期三。

3. 12：00 − 9：00 = 3 小时

16：30 − 14：00 = 2 小时 30 分钟

3 小时 + 2 小时 30 分钟 = 5 小时 30 分钟

答：博物馆全天开放 5 小时 30 分钟。

4. 175 分钟 = 2 小时 55 分钟

15 时 10 分 + 2 小时 55 分钟 = 18 时 05 分

答：比赛结束的时刻是 18 时 05 分。

专项能力提升卷 4　小数的拔高综合练习

一、1. 0.3　1.3　1.8

2. （1）2.6　3

（2）5　4.8

3. 92.0　0.29

4. 0.56 < 0.65 < 5.06 < 5.60 < 6.05

5. 70.06（答案不唯一）　700.6

6. 0.68　0.09　0.3　0.47　0.52

7. （部分空答案不唯一）3.2

7.6　【点拨】只能填整数部分是 7 的小数。

2　6

2　1

二、1. B　2. C　3. B　4. C

三、1. 1.8　3.4　1.4　1　5　0.1　0.8　4.2

2. 2.8 + 3.7 = 6.5　　12.3 − 9.6 = 2.7

$$\begin{array}{r} 2.8 \\ +\ 3.7 \\ \hline 6.5 \end{array} \qquad \begin{array}{r} 12.3 \\ -\ 9.6 \\ \hline 2.7 \end{array}$$

40 − 9.3 = 30.7　　7.5 + 4.5 = 12

$$\begin{array}{r} 40.0 \\ -\ 9.3 \\ \hline 30.7 \end{array} \qquad \begin{array}{r} 7.5 \\ +\ 4.5 \\ \hline 12.0 \end{array}$$

四、1. （1）0.156，0.165，0.561，0.516，0.651，0.615。

【点拨】注意按顺序去思考。

（2）6.015，6.051，6.105，6.150，6.501，6.510。

【点拨】大于 6 而小数部分是三位的小数，说明这个小数的整数部分是 6。

关注微信公众号“教辅资料站”获取更多学习资料

2. 一位小数：25.4，52.4，24.5，42.5，54.2，45.2。

两位小数：2.54，2.45，4.52，4.25，5.24，5.42。

五、1. 3.6 + 2.8 + 4.5 = 10.9（元）

10.9 > 10

答：买这些零食不够。

2. 1.8 + 0.6 + 0.6 = 3（千米）

答：这样小狗到小兔家一共要走 3 千米。

3. 153 − 144.1 = 8.9

15.3 − 8.9 = 6.4

答：正确的差是 6.4。

专项能力提升卷 5　面积的逆运算

一、1. 5

2. 24　576

3. 7　【点拨】列式计算是 20 ÷ 2 − 3 = 7（厘米）。

4. 5　26

5. 2　8

6. >　=　<　<

二、1. C　2. B　3. A　C

4. B　【点拨】先求这块正方形菜地的边长，是用 36 ÷ 3，而不是用 36 ÷ 4。

5. B

三、1. 5 + 2 = 7（厘米）

(10 + 7) × 2 = 34（厘米）

答：这个图形的周长是 34 厘米。

2. 10 × 12 − 6 × 2 = 108（平方厘米）

答：这个图形的面积是 108 平方厘米。

3. 24 × 11 − 6 × 6 = 228（平方厘米）

答：阴影部分的面积是 228 平方厘米。

四、1. 48 ÷ 4 = 12（米）

12 × 12 × 1 = 144（千克）

答：一共可收玉米 144 千克。

2. 270 ÷ 2 − 80 = 55（米）

80 × 55 ÷ 2 = 2200（平方米）

答：它面积的一半是 2200 平方米。

3. (40 + 20) × 2 = 120（米）

120 ÷ 4 = 30（米）

30 × 30 = 900（平方米）

答：这个正方形的面积是 900 平方米。

4. （1）3 分米 = 30 厘米

30 × 2 = 60（厘米）

60 × 15 = 900（平方厘米）

(60 + 15) × 2 = 150（厘米）

答：它的面积是 900 平方厘米，周长是 150 厘米。

（2）15 × 2 = 30（厘米）

3 分米 = 30 厘米

30 × 30 = 900（平方厘米）

30 × 4 = 120（厘米）

答：它的面积是 900 平方厘米，周长是 120 厘米。

专项能力提升卷 6　巧妙搭配

一、1. 9

2. 6

3. 4　【点拨】个位只能是 3，9。

4. 6　5. 10

6. 10　【点拨】列式计算是 4 + 3 + 2 + 1 = 10（条）。

7. 10　4 + 3 + 2 + 1 = 10（次）

8. 15　【点拨】列式计算是 5 + 4 + 3 + 2 + 1 = 15（场）。

9. 12

二、1. B　2. C　3. B

三、

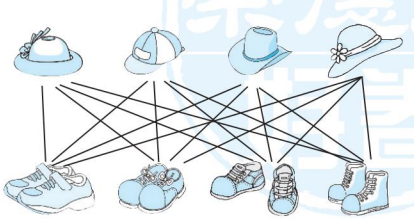

荣德基好卷

关注微信公众号“教辅资料站”获取更多学习资料

$4\times4=16$（种）

答：鞋子和帽子有 16 种不同的搭配方式。

四、1. 取出的钱有：5 元 1 角、5 元 5 角、6 元、1 元 1 角、1 元 5 角、6 角，共 6 种。

2. $3\times2=6$（种）

答：有 6 种不同的组队方案。

3. $3\times2\times2=12$（条）

答：欢欢从文具店到体育场一共有 12 条路线。

4. $4+3+2+1=10$（种）

$10\times2=20$（种）

答：一共要为这条线路准备 20 种不同的车票。

5. （1）$4+3+2+1=10$（次）

答：一共要握 10 次手。

（2）$4+3+2+1=10$（场）

答：一共要比赛 10 场。

专项能力提升卷 7　应用题的综合练习

一、1. 120　5100

2. 828

3. 60

4. 11

5. 64

6. 12.8

7. 6

8. 二　91　【点拨】4 月、5 月、6 月是第二季度，这三个月分别有 30 天、31 天、30 天。

9. ＞　＝　＞　＜

二、1. C　2. B　3. C　4. C

三、1. 21　0　105　7.6　25　2000　0.9　50

2. $9.3+15.8=25.1$

$$\begin{array}{r} 9.3 \\ +\ 15.8 \\ \hline 25.1 \end{array}$$

☆$36\times25=900$

$$\begin{array}{r} 36 \\ \times\ 25 \\ \hline 180 \\ 72 \\ \hline 900 \end{array}$$

验算：

$$\begin{array}{r} 25 \\ \times\ 36 \\ \hline 150 \\ 75 \\ \hline 900 \end{array}$$

$10-5.7=4.3$

$$\begin{array}{r} 10.0 \\ -\ 5.7 \\ \hline 4.3 \end{array}$$

$264\div6=44$

$$\begin{array}{r} 44 \\ 6\overline{)264} \\ 24 \\ \hline 24 \\ 24 \\ \hline 0 \end{array}$$

3. $46+54\times25$　　$(60+384)\div6$

$=46+1350$　　$=444\div6$

$=1396$　　$=74$

四、1. $96\div(4\times2)=12$（元）

答：每个悠悠球 12 元。

2. （1）$6.5+5.5=12$（千克）

答：一箱鸭蛋和一箱鸡蛋一共重 12 千克。

（2）$9.8-7.2=2.6$（元）

答：买 1 千克鸭蛋比买 1 千克鸡蛋贵 2.6 元。

3. 下午 1 时 $=13$ 时　$13-9=4$（小时）

$780\times4=3120$（千米）

$3120>3080$

答：下午 1 时飞机能到达乙地。

4. $60\times15\div9\times25=2500$（千克）

答：这个果园共产桃 2500 千克。

【点拨】求果园一共有多少棵桃树，要用除法。

5. （1）$20+15=35$（人）

答：这些项目中跳绳最受同学欢迎，是 35 人。

（2）$(20+15)-(15+10)=10$（人）

答：两个班的同学最喜欢跳绳的比最喜欢乒乓球的多 10 人。

荣德基好卷

关注微信公众号“教辅资料站”获取更多学习资料