# 《好卷》=《大卷》+《小卷》：不是所有的试卷都叫“好卷”，期末提分才是硬道理

## 同步测评用 小卷

### 周测培优卷


24 时计时法和 12 时计时法 …… 1
年、月、日的认识和平年、闰年的认识 … 3
两位数乘两位数的计算方法及应用 …… 5
估算和连乘 …… 7
辨认方向 …… 9
毫米和千米的认识 …… 11
数据的收集和整理 …… 13
认识小数和比较小数的大小 …… 15
小数简单加减计算 …… 17
面积和面积单位 …… 19
长方形和正方形的面积及铺地面 …… 21
认识分数和比较分数的大小 …… 23
简单分数加减法 …… 25
探索乐园 …… 27


## 同步测评用 大卷

### 单元检测卷


第一单元 跟踪检测卷 …… 1
第二单元 跟踪检测卷 …… 3
第三单元 跟踪检测卷 …… 5
第四、五单元 跟踪检测卷 …… 7
期中 检测卷 …… 9
第六单元 跟踪检测卷 …… 11
第七单元 跟踪检测卷 …… 13
第八、九单元 跟踪检测卷 …… 15


## 期末冲刺用 小卷

### 专项能力提升卷


24 时计时法与年、月、日的认识 …… 29
两位数乘两位数的计算及应用 …… 31
辨认方向与认识毫米和千米 …… 33
小数和分数的初步认识 …… 35
计算长方形和正方形的面积 …… 37
常考易错突破卷(一) …… 39
常考易错突破卷(二) …… 41


## 期末冲刺用 大卷

### 模块过关卷


数与代数 …… 17
空间与图形、统计与概率 …… 19


### 仿真模拟卷


仿真模拟卷(一) …… 21
仿真模拟卷(二) …… 23
石家庄市新华区期末测试卷 …… 25



大卷答案 见大卷27~30页　小卷答案 见小卷43~54页





关注微信公众号“教辅资料站”获取更多学习资料

荣德基 好卷

三年级 数学 下 JJ版

# 第六单元 跟踪检测卷

## 小数的初步认识

时间：60分钟　满分：100分+10分

| 题号 | 一 | 二 | 三 | 四 | 五 | 六 | 附加题 | 总分 |
|---|---|---|---|---|---|---|---|---|
| 得分 | | | | | | | | |

**一、填空。**（第7题3分，其余每空1分，共27分）

1. 小冰弟弟的身高是1.09米，横线上的数读作(　　)；爸爸的身高是1.80米，横线上的数读作(　　)。
2. 与9.6相邻的两个一位小数分别是(　　)和(　　)。
3. 六年级三名同学投铅球的成绩分别是：四点三七米、五点二零米、四点八五米。请分别写出横线上的数：(　　)、(　　)、(　　)；请把写出的这三个数按从大到小的顺序排序：(　　)>(　　)>(　　)。
4. 2元6角5分=(　　)元　　34元8分=(　　)元　　4角9分=(　　)元
   3米4厘米=(　　)米　　8分米=(　　)米　　1米40厘米=(　　)米
5. 一块肥皂5.80元，一条毛巾9.60元，(　　)贵，贵(　　)元。
6. 在◯里填上“>”“<”或“=”。

   0.9米◯0.6米　　7.8元◯8.7元　　0.7元◯7角

   6−3.2◯1.5+1.5　　13.6+7.9◯30.2−9.7
7. 按规律填空。

   (1)5.3,5.4,5.5,5.6,(　　),(　　),(　　)。

   (2)4.7,5.7,6.7,7.7,(　　),(　　),(　　)。

   (3)2.8,3.6,4.4,5.2,(　　),(　　),(　　)。
8. 小虎在读一个小数时，没有看到小数点，结果读成了七千零七，原来的小数只读出一个零，原来的小数是(　　)。

**二、判断。**（对的在括号里画“√”，错的画“×”。每题2分，共10分）

1. 6厘米就是0.6分米。(　　)
2. 小数的位数越多，小数就越大。(　　)
3. 所有的小数都比0大，比1小。(　　)
4. 明明跑50米用9.2秒，东东跑50米用8.7秒，明明跑得比东东快0.5秒。(　　)
5. 比0.2大又比0.4小的小数只有一个。(　　)

**三、选择。**（将正确答案的字母填在括号里。每题2分，共12分）

1. 0.1米用整数表示可以写成(　　)。
   A. 1毫米　　B. 1厘米　　C. 1分米
2. 用0、5、4和小数点可以组成(　　)个不同的两位小数。
   A. 2　　B. 4　　C. 6
3. 大于0.5且小于0.7的一位小数是(　　)。
   A. 0.52　　B. 0.6　　C. 0.62
4. 下面各数在5和6之间的是(　　)。
   A. 5.7　　B. 6.1　　C. 4.8
5. 下列小数只读一个零的是(　　)。
   A. 0.88　　B. 0.08　　C. 80.8
6. 5.□2>5.63，□里可填的数有(　　)个。
   A. 4　　B. 3　　C. 2

**四、按要求做题。**（共7分）

1. 把下面各长度写成以“米”为单位的数。（4分）



小明高143厘米
_____米

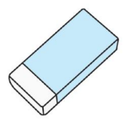

橡皮长4厘米
_____米



树高28分米
_____米



门宽90厘米
_____米

2. 用3、6、8和小数点组成个位上的数字比小数点右边第二位上的数字大的两位小数，把它们按从小到大的顺序排列起来。（3分）

_____

**五、计算。**（共16分）

1. 直接写得数。（4分）

   0.2+0.5=　　2.4+2.2=　　4.5−1.5=　　1.6−0.4=

   17.8−2.6=　　5.4+3.2=　　3+1.3=　　1−0.6=
2. 用竖式计算。（12分）

   17.3+4.9　　5.6−3.8　　10−5.3　　20.9+85.6

姓名　学号　班级　学校

密　封　线

豆点提示：请不要在密封线内答题哦！

荣德基好卷
微信公众号 教辅资料站
关注微信公众号“教辅资料站”获取更多学习资料

## 六、解决问题。（共 28 分）

1. 一本《格林童话》8.3 元，一本《快乐数学》9.5 元。乐乐带了 20 元钱，买这两本书够吗？（5 分）

2. 向灾区人民献爱心。




（1）小明捐了多少钱？（4 分）

（2）小芳捐了多少钱？（4 分）

3. 妈妈买了一个书包和一包饼干，用去了多少元？回家的路上，她数了数身上的钱，还剩 35.6 元，妈妈带了多少钱？（5 分）




28.6 元　　8.8 元

4. 如图，王伯伯把一根 4.2 米长的竹竿竖直插入自家的鱼塘里，竹竿入泥的部分是 0.7 米，露出水面的部分是 1.1 米。鱼塘水深多少米？（5 分）

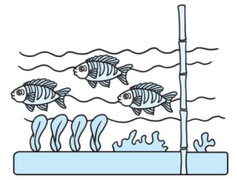

5. 小明的爸爸买了一瓶色拉油，连瓶共重 6.9 千克。用去一半油后连瓶重 3.7 千克，原来油重多少千克？瓶重多少千克？（5 分）

**附加题：**（10 分）

把下面的两条彩带各剪去同样长的一段后，剩下的红彩带的长度是黄彩带的 2 倍。两条彩带各剪去多少米？

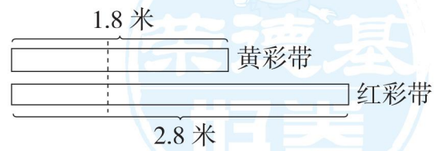


自己说说

老师点评

家长点评



荣德基好卷
微信公众号
教辅资料站
关注微信公众号“教辅资料站”获取更多学习资料

荣德基 好卷

三年级 数学 下 JJ版

# 第七单元 跟踪检测卷

## 长方形和正方形的面积

时间：60分钟　满分：100分+10分

| 题号 | 一 | 二 | 三 | 四 | 五 | 六 | 附加题 | 总分 |
|---|---|---|---|---|---|---|---|---|
| 得分 | | | | | | | | |

姓名　学号　班级　学校　密　封　线

温馨提示：请不要在密封线内答题哦！

**一、填空。**（每空1分，共17分）

1. 一个长方形，长是25厘米，宽是16厘米，它的面积是(　　)平方厘米，周长是(　　)厘米。

2. 一根铁丝长48厘米，用它折成一个最大的正方形，这个正方形的面积是(　　)平方厘米。

3. 把两个边长是2 cm的小正方形拼成一个长方形，面积是(　　)，周长是(　　)。

4. 6平方米＝(　　)平方分米　　600平方厘米＝(　　)平方分米

1000平方分米＝(　　)平方米　　3平方米＝(　　)平方厘米

5. 4个相同的小正方形刚好拼成一个面积为36平方分米的大正方形，每个小正方形的面积是(　　)平方分米。

6. 贝贝先用一根铁丝围成了一个边长为16厘米的正方形，后来她把这根铁丝改围成一个长方形，长是18厘米，宽是(　　)厘米，围成的正方形的面积比长方形的面积大(　　)平方厘米。（两次铁丝都刚好用完）

7. 在(　　)里填上合适的单位名称。

(1)我们教室的面积大约是50(　　)。

(2)橡皮一个面的面积大约是4(　　)。

(3)一张报纸的面积约为44(　　)。

(4)一台液晶电视屏幕的面积约为80(　　)。

(5)一张扑克牌的面积是60(　　)。

**二、判断。**（对的在括号里画“√”，错的画“×”。每题2分，共12分）

1. 用9个面积为1平方厘米的小正方形无论拼成哪种图形（不重叠地拼），面积都是9平方厘米。(　　)

2. 两个长方形，如果周长相等，那么面积也一定相等。(　　)

3. 一个长方形的长增加4分米，宽减少4分米，它的面积不变。(　　)

4. 周长是4厘米的正方形，边长和面积相等。(　　)

5. 用6个相同的正方形拼成一个长方形，只有一种拼法。(　　)

6. 面积是20平方分米的长方形，长一定是5分米，宽一定是4分米。(　　)

**三、选择。**（将正确答案的字母填在括号里。每题2分，共10分）

1. 右图中（方格大小相等），长方形的周长是正方形的(　　)。

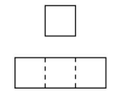

A. 2倍　　B. 3倍　　C. 4倍

2. 把一块长10米、宽5米的长方形地分成两块同样大小的正方形地，每块正方形地的面积是(　　)。

A. 15平方米　　B. 20平方米　　C. 25平方米

3. 长方形的长和宽都扩大为原来的3倍，面积扩大为原来的(　　)倍。

A. 3　　B. 6　　C. 9

4. 如右图，太极图是由黑白两部分组成的，这两部分(　　)。



A. 周长和面积都不相等　　B. 周长和面积都相等

C. 周长相等，面积不相等

5. 面积是1平方分米的长方形和边长是1分米的正方形相比，(　　)。

A. 长方形的面积大　　B. 正方形的面积大　　C. 两个面积一样大

**四、按要求画图。**（每题4分，共12分）

在方格纸上画图形。（每个小方格代表1平方厘米）

(1)画一个面积为4平方厘米的正方形。

(2)画出面积为18平方厘米的长方形。（至少画出2个）

(3)画出一个面积为7平方厘米的任意图形。



荣德基好卷　微信公众号　教辅资料站



关注微信公众号“教辅资料站”获取更多学习资料

## 五、计算。（共14分）

1. 计算下面图形的周长和面积。（8分）

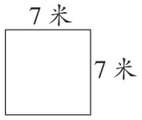


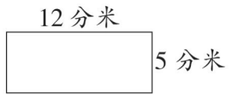


2. （1）右图中有（　　）个正方形。（2分）

（2）计算涂色部分的面积。（4分）

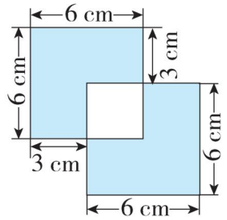


## 六、解决问题。（共35分）

1. 一块长方形西红柿地，长12米，宽8米。

（1）在这块西红柿地的四周围上围栏，围栏长多少米？（7分）

（2）如果每平方米地收5千克西红柿，这块地共收多少千克西红柿？（7分）

2. 一台压路机压路的宽度是2米，它每分钟向前行驶45米，行驶了8分钟。被压过的地面面积是多少平方米？（7分）

3. 小兰家用75块边长为8分米的正方形地砖铺满了客厅。小兰家的客厅有多少平方米？（7分）

4. 小明的爷爷有一块长方形菜地（如图），中间有一条2米宽的小路，请你计算出这块菜地的面积是多少平方米。（7分）

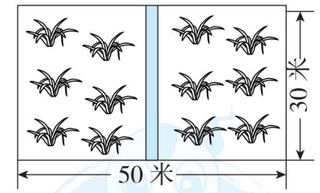


**附加题：**（10分）

一个正方形，如果边长增加4厘米，它的面积就增加96平方厘米。原来正方形的面积是多少平方厘米？

荣德基好卷
微信公众号
教辅资料站
关注微信公众号“教辅资料站”获取更多学习资料
自己说说
老师点评
家长点评
密
封
线

荣德基 好卷

三年级 数学 下 JJ版

# 第八、九单元 跟踪检测卷

## 分数的初步认识　探索乐园

时间：60分钟　满分：100分+10分

| 题号 | 一 | 二 | 三 | 四 | 五 | 六 | 附加题 | 总分 |
|---|---|---|---|---|---|---|---|---|
| 得分 | | | | | | | | |

姓名　学号　密　班级　封　学校　线

豆点提示：请不要在密封线内答题哦！

## 一、填空。（每空1分，共29分）

1. 用分数表示各图中的涂色部分。



（　　）　（　　）　（　　）　（　　）

2. 把一个苹果平均分成5份，其中的2份就是这个苹果的（　　）；书法小组有3名男生和5名女生，女生人数占书法小组总人数的（　　）。

3. $\frac{3}{9}$　读作：_____　八分之三　写作：_____

$\frac{1}{6}$　读作：_____　十分之三　写作：_____

4. 把一根铁丝平均分成10份，每份是它的（　　），（　　）份是它的$\frac{7}{10}$。

5. 把一根彩带对折再对折，每一小段的长度是彩带总长度的（　　）；如果剪下其中的两小段，剩下的彩带的长度占原来彩带总长度的（　　）。

6. $1=\frac{5}{(\quad)}=\frac{(\quad)}{9}=\frac{(\quad)}{12}$

7. $\frac{(\quad)}{8}+\frac{1}{8}<\frac{7}{8}$，括号里最大能填（　　）；$\frac{5}{9}<\frac{8}{9}-\frac{(\quad)}{9}$，括号里最大能填（　　）。

8. 黑兔、白兔和灰兔三只兔子赛跑，黑兔说："我跑得不是最快的，但比白兔快。"（　　）跑得最快，（　　）跑得最慢。

9. 在◯里填上"＞""＜"或"＝"。

$\frac{4}{4}$ ◯ 1　　$\frac{5}{6}$ ◯ $\frac{4}{6}$　　$\frac{1}{6}$ ◯ $\frac{1}{5}$　　$\frac{2}{7}-\frac{1}{7}$ ◯ $\frac{1}{8}$

$\frac{5}{9}+\frac{4}{9}$ ◯ 1　　$1-\frac{3}{5}$ ◯ $\frac{1}{5}$　　$\frac{4}{7}+\frac{1}{7}$ ◯ $\frac{6}{7}$　　$\frac{11}{15}-\frac{7}{15}$ ◯ $\frac{2}{15}$

## 二、判断。（对的在括号里画"√"，错的画"×"。每题2分，共10分）

1. 在$\frac{3}{8}$中，8表示平均分成的份数，3表示取其中的3份。（　　）

2. 3个$\frac{1}{3}$的和和7个$\frac{1}{7}$的和一样大。（　　）

3. 分子相同，分母越大，分数越大。（　　）

4. 小冬喝了一杯水的$\frac{1}{3}$，小硕喝了另一杯水的$\frac{1}{3}$，两人喝的水一样多。（　　）

5. 芳芳比阳阳大3岁，燕燕比芳芳小1岁，那么阳阳的年龄最小。（　　）

## 三、选择。（将正确答案的字母填在括号里。每题2分，共10分）

1. 下列分数中最大的是（　　）。

A. $\frac{1}{10}$　　B. $\frac{1}{2}$　　C. $\frac{1}{7}$

2. 去掉的一半后，再去掉一半，剩下的图形是（　　）。

A. 　　B. 　　C. 

3. 女生人数占全班总人数的$\frac{5}{9}$，表示（　　）。

A. 把全班总人数平均分成5份，女生人数占其中的9份

B. 把全班总人数平均分成9份，每份是5人

C. 把全班总人数平均分成9份，女生人数占其中的5份

4. $\frac{1}{8}$、$\frac{3}{8}$和$\frac{3}{5}$这三个分数中，（　　）最大。

A. $\frac{1}{8}$　　B. $\frac{3}{8}$　　C. $\frac{3}{5}$

5. 如图，有三个邮箱，小林的邮箱号是（　　）。




小明说："我的邮箱号是最小的。"

小宇说："我的邮箱号不是最大的。"

小林说："我的邮箱号是……"

A. 58　　B. 30　　C. 78



荣德基好卷　微信公众号　教辅资料站
关注微信公众号"教辅资料站"获取更多学习资料

## 四、按要求做题。（每题 8 分，共 16 分）

1. 看图写算式并计算。

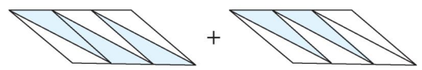

（　　）+（　　）=（　　）

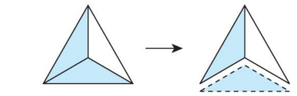

（　　）−（　　）=（　　）

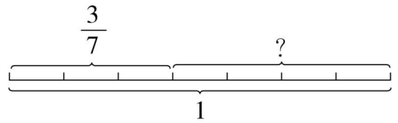


1 −（　　）=（　　）

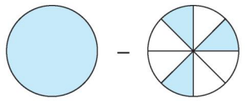

（　　）−（　　）=（　　）

2. 根据规律接着画一画，填一填。




| 图号 | ① | ② | ③ | ④ |
|---|---|---|---|---|
| 圆的总个数（个） | | | | |

## 五、计算。（共 16 分）

1. 直接写得数。（4 分）

$\frac{5}{8}+\frac{2}{8}=$　　$\frac{2}{3}-\frac{1}{3}=$　　$\frac{2}{4}+\frac{1}{4}=$　　$\frac{5}{9}-\frac{2}{9}=$

$\frac{4}{5}-\frac{2}{5}=$　　$1-\frac{3}{6}=$　　$\frac{8}{10}+\frac{2}{10}=$　　$\frac{4}{7}+\frac{1}{7}=$

2. 在括号里填上合适的数。（12 分）

$\frac{8}{10}-(\quad)=\frac{1}{10}$　　$(\quad)-\frac{5}{8}=\frac{3}{8}$　　$\frac{1}{6}+(\quad)=\frac{5}{6}$

$(\quad)+\frac{3}{11}=\frac{10}{11}$　　$1-(\quad)=\frac{2}{7}$　　$(\quad)+(\quad)=\frac{7}{9}$

## 六、解决问题。（共 19 分）

1. 一根绳子长$\frac{3}{7}$米，另一根绳子比它长$\frac{1}{7}$米，另一根绳子长多少米？两根绳子一共长多少米？（4 分）

2. 工人叔叔修一条路，第一天修了全长的$\frac{3}{8}$，第二天修了全长的$\frac{2}{8}$，两天一共修了全长的几分之几？再修全长的几分之几就修完了？（5 分）

3. 同同、乐乐和圆圆三名运动员在 100 米赛跑中获得了前三名。他们是这样介绍自己的比赛成绩的：

同同说：“我得的不是金牌。”

乐乐说：“我得的不是银牌。”

圆圆说：“我比乐乐跑得快。”

你知道这三名运动员分别获得了什么奖牌吗？（4 分）

4. 德德在一张纸上做了这样的安排：$\frac{4}{16}$ 画画，$\frac{8}{16}$ 写字，$\frac{9}{16}$ 剪窗花。这样安排行吗？为什么？（6 分）

**附加题：**（10 分）

妈妈给东东买了 18 支铅笔，让东东分别拿出这些铅笔的$\frac{1}{2}$、$\frac{1}{3}$和$\frac{1}{6}$，东东难住了。请你帮他算一算。

1. 这些铅笔的$\frac{1}{2}$是（　　）支铅笔。

2. 这些铅笔的$\frac{1}{3}$是（　　）支铅笔。

3. 这些铅笔的$\frac{1}{6}$是（　　）支铅笔。

自己说说

老师点评

家长点评

密　封　线



荣德基 期末卷
微信公众号 教辅资料站
关注微信公众号“教辅资料站”获取更多学习资料

荣德基 好卷

三年级 数学 下 JJ版

# 期末复习冲刺卷 模块过关卷（一）

## 数与代数

时间：60分钟　满分：100分+10分

| 题号 | 一 | 二 | 三 | 四 | 五 | 六 | 附加题 | 总分 |
|---|---|---|---|---|---|---|---|---|
| 得分 | | | | | | | | |

**一、填空。**（第10题每小题1分，其余每空1分，共24分）

1. 海底世界上午9时开馆，下午4时闭馆，一天开放（　　）小时。
2. 我们学校从1月18日开始放寒假，2月15日开学，这个假期共有（　　）天。
3. 每辆公共汽车有28个座位，10辆公共汽车大约有（　　）个座位。
4. 2004年2月24日是红红过的第九个生日。这一年，再过几天，爷爷才过他的第十五个生日。那么爷爷的生日是（　　）月（　　）日，爷爷这一年是（　　）岁，爷爷过第十七个生日时，是（　　）岁。
5. 一辆玩具汽车的价格是三十点零八元，横线上的数写作（　　）。
6. 小明发烧住院，入院时体温是39.4℃，经过两天的治疗，小明的体温下降到37.5℃，他的体温下降了（　　）℃。
7. 1里面有（　　）个$\frac{1}{10}$，减去（　　）个$\frac{1}{10}$，还剩7个$\frac{1}{10}$，结果是（　　），这个分数读作（　　）。
8. 一个正方形手帕的边长是3分米2厘米，用小数表示是（　　）米，这个小数读作（　　）。
9. 甲、乙、丙三人分别是医生、教师和工人。已知：甲有很多学生，乙不会给人看病，则甲是（　　），乙是（　　），丙是（　　）。
10. 1分米8厘米＝（　　）米　　5米20厘米＝（　　）米
    3元9分＝（　　）元　　3000米＋2000米＝（　　）千米
    6300米＝（　　）千米（　　）米　　8角＝（　　）元

**二、判断。**（对的在括号里画“√”，错的画“×”。每题2分，共12分）

1. 公历年份是4的倍数的一定是闰年。（　　）
2. 把一个西瓜分成8块，小刚吃了3块，还剩下这个西瓜的$\frac{5}{8}$。（　　）
3. 6元比4.2元多1.8元。（　　）
4. 比较两个分数的大小，分子小的分数小。（　　）
5. □ □□ □□□ / □ □□ □□□按这个规律摆，图④有8个小正方形。（　　）
   ①　②　③

6. 电影18:30开始，路上需要45分钟，毛毛最晚在17:45出发。（　　）

**三、选择。**（将正确答案的字母填在括号里。每题2分，共10分）

1. 下图中阴影部分不能表示$\frac{1}{2}$的是（　　）。

   A. 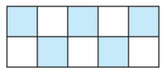　B. 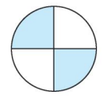　C. 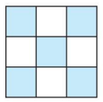

2. 一所住宅一共有3层，甲、乙、丙三人分别居住在不同的楼层，已知甲居住在乙居住的楼层上面，并且乙居住的楼层不是最下面，则乙居住在第（　　）层。
   A. 1　　B. 2　　C. 3

3. 4天是一个星期的（　　）。
   A. $\frac{4}{5}$　　B. $\frac{4}{6}$　　C. $\frac{4}{7}$

4. 34×30的积是34×3的积的（　　）倍。
   A. 1　　B. 10　　C. 100

5. 不论是平年还是闰年，下列（　　）的天数总是相同的。
   A. 第一季度和第二季度　B. 第二季度和第三季度　C. 第三季度和第四季度

**四、计算。**（共26分）

1. 直接写得数。（5分）

| | | | | |
|---|---|---|---|---|
| 30×80＝ | 46×20＝ | 0×43＝ | 1.1－0.6＝ | 2.5＋6.6＝ |
| 3－0.3＝ | $\frac{4}{9}+\frac{5}{9}$＝ | $1-\frac{3}{5}$＝ | $\frac{5}{8}-\frac{3}{8}$＝ | $\frac{2}{7}+\frac{3}{7}$＝ |

2. 用竖式计算。（12分）

| | | | |
|---|---|---|---|
| 37×86 | 80×75 | 14.8＋2.6 | 26－11.6 |

3. 脱式计算。（9分）

| | | |
|---|---|---|
| 18×(313－259) | 49×2×15 | 17.8－(3.6＋6.4) |

姓名　学号　班级　学校　密　封　线

豆点提示：请不要在密封线内答题哦！

荣德基好卷　微信公众号 教辅资料站　关注微信公众号“教辅资料站”获取更多学习资料

## 五、按要求做题。（共 5 分）

1. 用分数表示下列各图的阴影部分。（3 分）

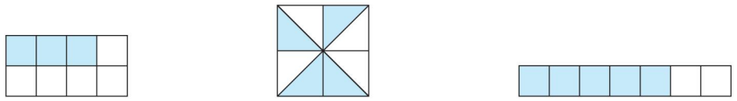

（　　）　　（　　）　　（　　）

2. 按从长到短的顺序排列。（2 分）

15 厘米　　7 米　　80 分米　　800 毫米　　1 千米

## 六、解决问题。（共 23 分）

1.




（1）小明和小刚一共用去这张纸的几分之几？（3 分）

（2）小明比小刚多用去这张纸的几分之几？（3 分）

2. 李老师和刘老师带着 39 名同学去博物馆参观，门票的价格是每张 15 元。带 600 元买门票，够吗？（4 分）

3. 养牛场一共养了 36 头牛，一头牛一天吃草 13 千克，这些牛一星期共吃草多少千克？（4 分）

4.




10.4 元　　9.9 元　　4.3 元　　5.2 元

（1）从上面选两本你喜欢的书，算一算一共需要多少钱。（3 分）

（2）乐乐有 20 元，买了一本《童话故事》后，还可以买哪两本书？（3 分）

（3）你还能提出其他数学问题并解答吗？（3 分）

**附加题：**（10 分）

一只蜗牛想爬到 3 米高的葡萄架上吃葡萄，它白天向上爬 15 分米，可是到了晚上睡觉时又下滑 10 分米。请你帮这只蜗牛算一算，像它这样第几天才能爬上葡萄架？

荣德基好卷
微信公众号
教辅资料站
关注微信公众号“教辅资料站”获取更多学习资料



自己说说　密　老师点评　封　线　家长点评

荣德基 好卷

三年级 数学 下 JJ版

# 期末复习冲刺卷 模块过关卷（二）

## 空间与图形、统计与概率

时间：60分钟　满分：100分+10分

| 题号 | 一 | 二 | 三 | 四 | 五 | 附加题 | 总分 |
|---|---|---|---|---|---|---|---|
| 得分 | | | | | | | |

## 一、填空。（每空1分，共19分）

1. 一个长方形的面积是40平方分米，长是8分米，周长是(　　)分米。
2. 小红面向东站立，她后面是(　　)，左面是(　　)。
3. 在(　　)里填上合适的单位。

   一张报纸的面积大约是40(　　)；

   一张银行卡的面积大约是45(　　)；

   一间卧室的面积大约是22(　　)。
4. 根据下图完成后面的填空。

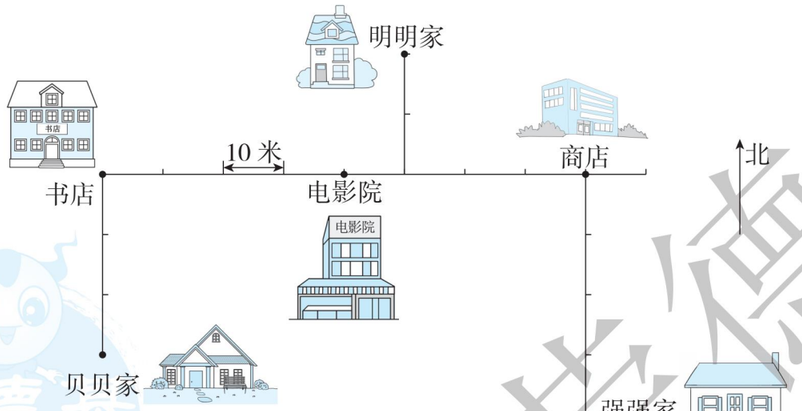


(1)强强从家出发，先向(　　)走(　　)米，再向(　　)走(　　)米到电影院。

(2)贝贝、明明和强强他们三家，(　　)家离电影院最近，(　　)家离电影院最远。

(3)书店和商店分别位于明明家的(　　)方向和(　　)方向。

(4)商店在贝贝家的(　　)方向。
5. 在○里填上“＞”“＜”或“＝”。

5000平方分米○6平方米　　800平方厘米○10平方分米

1平方分米○100平方厘米　　900平方厘米○9平方米

## 二、判断。（对的在括号里画“√”，错的画“×”。每题2分，共10分）

1. 在森林中可以利用树叶的疏密程度来识别方向。(　　)
2. 一个长方形的长增加2厘米，宽减少2厘米，它的面积不变。(　　)
3. 知道东、南、西、北任意一个方向，就能辨认出其他的方向。(　　)
4. 边长是6厘米的正方形，它的面积是24平方厘米。(　　)
5. 面积相等的长方形和正方形，它们的周长也一定相等。(　　)

## 三、选择。（将正确答案的字母填在括号里。每题2分，共10分）

1. 小英的西南方向是小芳，那么小英在小芳的(　　)方向。

   A. 东南　　B. 西北　　C. 东北
2. 一个边长是8厘米的大正方形，可以剪成(　　)个面积是4平方厘米的小正方形。

   A. 4　　B. 8　　C. 16
3. 明明紧挨着一个正方形花圃的外围跑了一圈，跑了40米，这个花圃的占地面积是(　　)。

   A. 40平方米　　B. 100米　　C. 100平方米
4. 小刚放学回家时往西南方向走，那么他上学时应该往(　　)方向走。

   A. 东北　　B. 西北　　C. 东南
5. 下面两个图形都是用边长为1cm的小正方形拼成的，这两个图形相比较，正确的是(　　)。

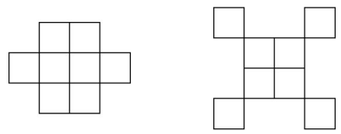

   A. 面积和周长都不相等　　B. 面积相等，周长不相等

   C. 周长相等，面积不相等

## 四、按要求做题。（共18分）

1. 标出小鸡家和小兔家的位置。（4分）

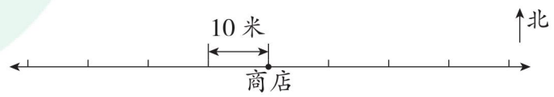





姓名　学号　班级　学校

密　封　线

豆点提示：请不要在密封线内答题哦！



荣德基好卷　微信公众号 教辅资料站
关注微信公众号“教辅资料站”获取更多学习资料

2. 写出各涂色图形的面积。(6 分)

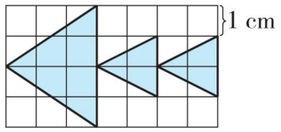


(　　)$cm^2$

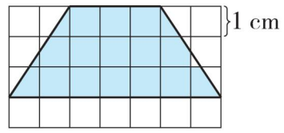


(　　)$cm^2$

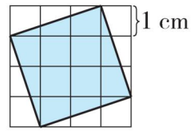


(　　)$cm^2$

3. 用两种方法计算下面图形的面积。(8 分)

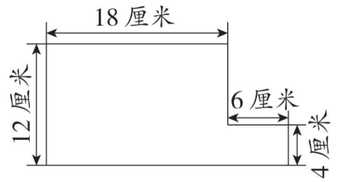


## 五、解决问题。(共 43 分)

1. 工人叔叔在铺草坪,平均每小时铺 80 米,草坪宽 6 米。像这样一直铺 12 小时,铺成的草坪的面积是多少平方米?(7 分)

2. 如图,张大爷靠墙围了一块长方形的菜地。

(1)请你算出这块菜地的占地面积。(6 分)

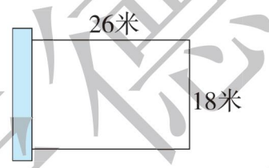


(2)如果用篱笆围这块菜地,至少需要多少米长的篱笆?(7 分)

3. 亮亮家的院子是一个长方形,长 12 米,宽 6 米。爸爸计划用边长为 3 分米的方砖铺院子。请你帮忙算一算,至少需要购买多少块这样的方砖?(7 分)

4. 学校要参加市里举办的歌咏比赛,每班选举 1 名同学参加,下面是三(1)班同学的选举结果。

赵明:正 正 下　　李强:○ ○ ○ ○ ○ ○ ○

孙奇:√ √ √ √　　王雨:△ △ △ △ △ △

刘芳:正 下

(1)把上面的选举结果填入下表。(5 分)

| 姓名 | 赵明 | 李强 | 孙奇 | 王雨 | 刘芳 |
|---|---|---|---|---|---|
| 票数/票 | | | | | |

(2)根据上表回答问题。

①(　　)的票数最多,(　　)的票数最少。(2 分)

②赵明比刘芳多(　　)票,孙奇比李强少(　　)票。(2 分)

③根据统计结果,应该选(　　)参加比赛。(1 分)

(3)如果每人只能投一票,并且必须投一票,那么三(1)班一共有(　　)名同学。(2 分)

(4)如果有 1 名同学因缺勤而没有参与投票,那么如果他参与投票会影响选举结果吗?请说明理由。(4 分)

**附加题:**(10 分)

学校有一块长方形绿化地,三年级同学准备扩建这块绿化地。如果长不变,宽增加 2 米,或宽不变,长增加 4 米,绿化地的面积都会增加 120 平方米。原来绿化地的面积是多少平方米?

荣德基好卷
微信公众号
教辅资料站
关注微信公众号"教辅资料站"获取更多学习资料



自己说说　老师点评　家长点评

荣德基 好卷

三年级 数学 下 JJ版

# 期末复习冲刺卷

## 仿真模拟卷(一)

时间：60分钟　满分：100分+10分

| 题号 | 一 | 二 | 三 | 四 | 五 | 六 | 附加题 | 总分 |
|---|---|---|---|---|---|---|---|---|
| 得分 | | | | | | | | |

姓名　学号　班级　学校　密　封　线

豆点提示：请不要在密封线内答题哦！

## 一、填空。(每空1分,共24分)

1. 贝贝买一本书的价钱是38元8分,改写成以“元”为单位的小数是(　　)元,这个小数读作(　　)。
2. 把一根绳子平均分成5段,每段是它的(　　),3段就是它的(　　),读作(　　)。
3. 一个长方形的铁丝框,相邻的两条边的长度和是16厘米,这个铁丝框的周长是(　　)厘米。如果把它围成一个正方形,那么这个正方形的面积是(　　)平方厘米。
4. 一个文具盒的厚度约是32(　　);一个足球场的面积大约是7000(　　)。
5. 在估算61×49时,可以把61看作(　　),把49看作(　　),估算的结果是(　　)。
6. 2019年6月1日是星期六,6月30日是星期(　　),7月15日是星期(　　)。
7. 红红家距离学校500米,她每天从家到学校要走两个来回。她一天要走(　　)米,合(　　)千米。
8. 如果你的左边是东方,那么右边就是(　　)方,前面是(　　)方。
9. 在○里填上“>”“<”或“=”。

$200dm^2$ ○ $20m^2$　　5 km ○ 5000m　　300毫米 ○ 5分米

$1-\frac{5}{9}$ ○ $\frac{5}{9}+\frac{1}{9}$　　8.35 ○ 8.4　　$\frac{3}{5}+\frac{2}{5}$ ○ $\frac{4}{7}+\frac{3}{7}$

## 二、判断。(对的在括号里画“√”,错的画“×”。每题2分,共10分)

1. 0.39比0.5大。(　　)
2. 把一张纸平均分成4份,用去2份,还剩下这张纸的$\frac{1}{2}$。(　　)
3. 甲说:“我比丙大3岁”,乙说:“我比甲小2岁”,那么乙比丙小1岁。(　　)
4. 用12个相同的小正方形拼成不同形状的长方形,它们的面积相等,周长也相等。(　　)
5. 学生看书时,正确的做法是眼睛与书的距离约是30毫米。(　　)

## 三、选择。(将正确答案的字母填在括号里。每题2分,共10分)

1. 甲、乙、丙分别是2018年的某个月份,且天数都不相同,甲月的天数最多,乙月不是30天,则乙月是(　　)天。

A. 28　　B. 29　　C. 31

2. 妈妈的身高大约是165(　　),还可以说成1.65(　　)。

A. 厘米　　B. 分米　　C. 米

3. 学生尺的厚度大约是2(　　)。

A. 毫米　　B. 厘米　　C. 分米

4. 吃饭时同学们把长方形桌子拼起来,摆成一行,摆放桌子的张数与可以坐的人数规律如下图所示,按照这样的方法,摆放6张桌子可以坐(　　)人。

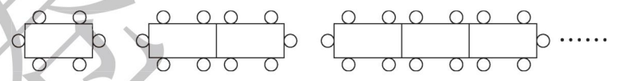

A. 24　　B. 26　　C. 36

5. 估算82×□8的结果是3200,□中只能填(　　)。

A. 4　　B. 3　　C. 5

## 四、按要求做题。(6分)

请在图中用“△”标出小强家的位置,用“○”标出小丽家的位置。




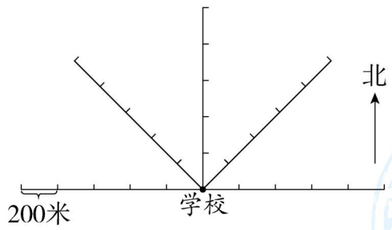


## 五、计算。(共21分)

1. 直接写得数。(3分)

$24\times30=$　　$16\times50=$　　$1-\frac{2}{5}=$

$13.6-4.9=$　　$89\times27\approx$　　$42\times68\approx$

2. 用竖式计算。(9分)

$63\times89$　　$4.9+10.1$　　$30-3.1$

荣德基好卷　微信公众号 教辅资料站



关注微信公众号“教辅资料站”获取更多学习资料

3. 脱式计算。(9 分)

384 + 18 × 25　　39 × (86 − 26)　　26 × 15 × 7

## 六、解决问题。(共 29 分)

1. 熊妈妈把一张饼平均分成了 9 块,小熊乐乐吃了 2 块,小熊欢欢吃了 4 块,熊妈妈吃了 2 块。

(1)小熊乐乐和熊妈妈一共吃了这张饼的几分之几?(4 分)

(2)它们把这张饼吃完了吗?如果没吃完,还剩几分之几?(5 分)

2. 明明用 20 元买文具,买钢笔用去 6.7 元,买文具盒用去 9.8 元,还剩多少元?(5 分)

3. 一张长方形的单人床,长 2 米,宽 12 分米。现在给这张床做一个床单,要在床的左右两侧各垂下 2 分米,这个床单的面积是多少平方分米?(5 分)

4. 甲、乙两地间的铁路长是 600 千米,一列火车夜里 11 时从甲地出发,开往乙地,平均每小时行驶 80 千米,第二天早晨 7 时能到达目的地吗?(5 分)

5. 2019 年暑假,8 岁的小丽和爸爸、妈妈、爷爷、奶奶到湿地公园游玩,买门票花了多少钱?(5 分)

成人票:每人 35 元
儿童票:每人 20 元(12 岁以下)
60 岁以上老人免门票




**附加题:**(10 分)

下面的图形是四个完全相同的长方形和一个小正方形拼成的一个大正方形。已知每个长方形的周长是 32 厘米,则大正方形的面积是多少平方厘米?

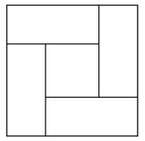

自己说说　密　封　线　老师点评　家长点评

荣德基好卷
微信公众号
教辅资料站
关注微信公众号“教辅资料站”获取更多学习资料

荣德基 好卷

三年级 数学 下 JJ版

# 期末复习冲刺卷

## 仿真模拟卷(二)

时间：60分钟　满分：100分+10分

| 题号 | 一 | 二 | 三 | 四 | 五 | 六 | 附加题 | 总分 |
|---|---|---|---|---|---|---|---|---|
| 得分 | | | | | | | | |

姓名　学号　班级　学校

密　封　线

豆点提示：请不要在密封线内答题哦！

## 一、填空。(每空1分,共21分)

1. 闰年一年有(　　)天,2019年的上半年有(　　)天。
2. 乐乐的身高是1米8厘米,用小数表示是(　　)米,这个小数读作(　　)。
3. 我1分钟走了100米,照这样的速度,走10分钟,就走了1(　　)。
4. 1里面有(　　)个$\frac{1}{6}$;5个$\frac{1}{9}$是(　　),它减去2个$\frac{1}{9}$,是(　　)。
5. 林林、圆圆和方方三个人中,一位是工人,一位是农民,一位是战士。现在知道:林林和农民不同岁,圆圆的年龄比农民大比战士小。请你推断:林林是(　　),圆圆是(　　),方方是(　　)。
6. 在◯里填上“>”“<”或“=”。

6千米◯6000米　　20毫米◯2分米　　1.4◯4.1

$1-\frac{1}{5}$◯$\frac{4}{5}$　　5.3◯6.1　　$\frac{5}{6}+\frac{1}{6}$◯$\frac{5}{9}+\frac{3}{9}$

7. 在(　　)里填上合适的单位。

教室高290(　　)。　　一本故事书的厚度约为5(　　)。

贝贝卧室的面积约为16(　　)。　　从北京到天津的距离约是137(　　)。

## 二、判断。(对的在括号里画“√”,错的画“×”。每题2分,共10分)

1. 周长相等的两个正方形,面积一定相等。(　　)
2. 两个面积相等的长方形一定能拼成一个正方形。(　　)
3. 把一个长方形平均分成的份数越多,每一份就越小。(　　)
4. 把一块月饼分成4份,其中的3份是$\frac{3}{4}$。(　　)
5. 整数一定比小数大。(　　)

## 三、选择。(将正确答案的字母填在括号里。每题2分,共10分)

1. 在3.2,3.02,3.22这三个小数中,最大的是(　　)。

A. 3.2　　B. 3.02　　C. 3.22

2. 一个长方形的长是18cm,宽是13cm,求这个长方形的面积。列式正确的是(　　)。

A. 18×13　　B. (18+13)×2　　C. 18+13

3. 王华2019年6月18日满20岁,他是(　　)年出生的。

A. 1999　　B. 1998　　C. 2000

4. 小军家在学校的西方,小林家在小军家的南方,小林家在学校的(　　)方。

A. 西　　B. 南　　C. 西南

5. 在一张正方形纸上,剪去一个长6厘米,宽4厘米的长方形,对于下面三种剪法,说法正确的是(　　)。

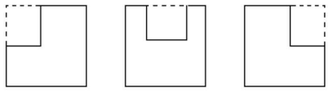

A. 这三种剪法剩下部分的周长相等

B. 这三种剪法剩下部分的面积相等

C. 这三种剪法剩下部分的面积和周长都相等

## 四、计算。(共26分)

1. 直接写得数。(5分)

32×20=　　42×50=　　3+2.4=　　8.3−2.7=　　0.6−0.6=

$\frac{3}{7}+\frac{4}{7}$=　　$1-\frac{1}{4}$=　　$\frac{2}{8}+\frac{3}{8}$=　　$\frac{5}{6}-\frac{4}{6}$=　　$\frac{8}{9}-\frac{8}{9}$=

2. 用竖式计算。(12分)

68×47　　29×70　　20−5.7

3. 脱式计算。(9分)

518−16×25　　25×5×9　　10.9+5.2+1.8

荣德基 好卷
微信公众号 教辅资料站
关注微信公众号“教辅资料站”获取更多学习资料

## 五、下面是三(1)班全体同学体检视力统计表,请根据统计表填空。(每空1分,共5分)

| 视力 | 4.2及以下 | 4.3~4.6 | 4.7~4.9 | 5.0及以上 |
|---|---|---|---|---|
| 人数 | 3人 | 7人 | 12人 | 31人 |

1. 视力为(　　)的人数最多,有(　　)人。
2. 视力为4.3~4.6的有(　　)人。
3. 5.0及以上为视力正常,视力低于5.0的有(　　)人。
4. 三(1)班共有学生(　　)人。

## 六、解决问题。(共28分)

1. 图书馆新增了8个书架,每个书架有6层,每层可以放68本书。新增书架一共可以放多少本书?(5分)

2. 水果店运来一批水果,第一天卖出全部的$\frac{2}{7}$,第二天卖出的和第一天卖出的同样多,还剩下这批水果的几分之几?(5分)

3. 一台割草机每分钟割草30米,割草的宽度是20分米,这台割草机8分钟割草的面积是多少平方米?(5分)

4. 有一块长方形西瓜地,长60分米,宽2米,面积是多少平方分米?如果平均每平方米可收西瓜35千克,这块西瓜地共可收西瓜多少千克?(5分)

5.

早餐店

| | |
|---|---|
| 馄饨(碗):4.5元 | 肉饼(个):2.5元 |
| 油条(根):0.8元 | 包子(个):1.3元 |
| 馒头(个):0.4元 | |

(1)3元钱买1个肉饼和1根油条,够吗?(4分)

(2)豆豆有7元钱,买了一碗馄饨后,剩下的钱还可以买哪两种食品?(4分)

**附加题:**(10分)

如下图,有一块长方形菜地,长35米,宽23米,菜地中间留的是宽1米的小路,把菜地平均分成了4块,每一块的面积是多少平方米?

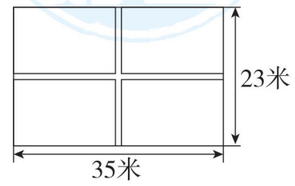




荣德基
微信公众号
教辅资料站
关注微信公众号"教辅资料站"获取更多学习资料

荣德基 好卷 三年级 数学 下 JJ版

期末复习冲刺卷

# 石家庄市新华区期末测试卷

时间：60分钟　满分：100分

| 题号 | 一 | 二 | 三 | 四 | 五 | 总分 |
|---|---|---|---|---|---|---|
| 得分 | | | | | | |

姓名　学号　班级　学校

密　封　线

豆点提示：请不要在密封线内答题哦！

## 一、填空。（每空1分，共25分）

1. 在（　　）里填上合适的单位。

（1）一块橡皮大约长40（　　），这块橡皮最大面的面积大约是8（　　）。

（2）沿着400米的环形跑道跑两圈半就是1（　　）。

2. 一个分数，它的分子是5，分母是7，这个分数写作（——），它里面有（　　）个$\frac{1}{7}$。

3. $1=\frac{(\quad)}{3}=\frac{5}{(\quad)}$

4. 张阿姨晚上9时30分睡觉，第二天早上6时起床，她这一晚的睡眠时间是（　　）。

5. 如果连续3天的日期和是45，那么这三天的最后一天是（　　）日。

6. 在○里填上“＞”“＜”或“＝”。

4平方米○400平方分米　　9角○1.1元　　0.80○1

$\frac{1}{7}$○$\frac{1}{5}$　　$\frac{5}{6}$○$\frac{3}{6}$　　9.9○10

7. 把一个西瓜平均切成8块，每人吃1块，每人吃这个西瓜的（——），5人共吃了这个西瓜的（——），还剩下这个西瓜的（——）。

8. 下午放学时，亮亮迎着夕阳走在回家的路上。这时，亮亮面向（　　）方，后面是（　　）方，左面是（　　）方，右面是（　　）方。

9. 会议中心有38排座位，每排42个，估算一下，一共有（　　）个座位。

10. 25×80的积是（　　）位数，积的末尾有（　　）个0。

## 二、选择。（将正确答案的字母填在括号里。每题2分，共12分）

1. 晚上7时30分，用24时计时法表示是（　　）。

A. 7:30　　B. 17:30　　C. 19:30

2. 估算下列算式，结果最大的是（　　）。

A. 6□×20　　B. 2□×4□　　C. 3□×8□

3. 如图是上水小学的校园示意图，教学楼在校门的（　　）方。

A. 东北

B. 东

C. 东南

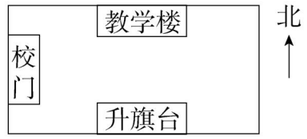


4. 下列竖式中，计算正确的是（　　）。

A.　35×30=950　　B.　30×40=120　　C.　70×80=5600

5. 一天，果园共摘了12筐樱桃，每筐32千克，管理员用竖式计算这些樱桃一共有多少千克，箭头指向的一步计算的是（　　）。

　32×12=64，32←，384

A. 1筐樱桃有多少千克　　B. 10筐樱桃有多少千克

C. 12筐樱桃有多少千克

6. 某班车每天早晨6:00发第一班车，以后每隔1小时30分钟发一班，发第三班车的时刻是（　　）。

A. 7:30　　B. 9:00　　C. 10:30

## 三、计算。（共20分）

1. 直接写得数。（8分）

$1-\frac{3}{4}=$　　$\frac{2}{8}+\frac{5}{8}=$　　$25\times40=$　　$24\times2=$

$4\times21=$　　$\frac{5}{9}+\frac{4}{9}=$　　$\frac{6}{7}-\frac{3}{7}=$　　$92\times79\approx$

2. 用竖式计算。（6分）

$25\times37$　　$6.3+2.5$

3. 脱式计算。（6分）

$49\times6\times5$　　$12\times(63-28)$

荣德基 好卷　微信公众号 教辅资料站



关注微信公众号“教辅资料站”获取更多学习资料

## 四、解决问题。（共 38 分）

1. 选择下面合适的图形表示出$\frac{2}{5}$和$\frac{3}{4}$。（4 分）





2. 学校在张兰家西面 2 千米处。

（1）请在下图中标出学校的位置。（3 分）

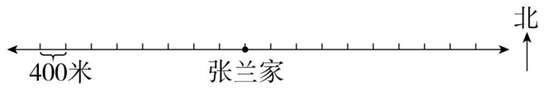


（2）张兰早上 7 时 30 分从家出发，如果每分钟走 74 米，她 8 时 5 分前能到学校吗？（4 分）

3. （1）请你制作一张 2020 年 2 月份的月历。（4 分）

2020年01月

| 日 | 一 | 二 | 三 | 四 | 五 | 六 |
|---|---|---|---|---|---|---|
| | | | 1 | 2 | 3 | 4 |
| 5 | 6 | 7 | 8 | 9 | 10 | 11 |
| 12 | 13 | 14 | 15 | 16 | 17 | 18 |
| 19 | 20 | 21 | 22 | 23 | 24 | 25 |
| 26 | 27 | 28 | 29 | 30 | 31 | |

2020年02月

| 日 | 一 | 二 | 三 | 四 | 五 | 六 |
|---|---|---|---|---|---|---|
| | | | | | | |
| | | | | | | |
| | | | | | | |
| | | | | | | |
| | | | | | | |

（2）张兰 1 月 18 日开始放寒假，2 月 9 日开学，她寒假一共休息了多少天？（3 分）

4. 一个正方形桌面的边长是 8 分米，现在给它配一块桌布，要求四周都垂下 1 分米。

（1）这块桌布的面积是多少平方米？（3 分）

（2）如果给这块桌布的四周缝上花边，花边的长度是多少分米？（4 分）

5. 任意抽取了三年级某班 20 名学生的体重，记录如下：

| 学号 | 体重（kg） | 学号 | 体重（kg） | 学号 | 体重（kg） | 学号 | 体重（kg） | 学号 | 体重（kg） |
|---|---|---|---|---|---|---|---|---|---|
| ① | 28 | ⑤ | 42 | ⑨ | 30 | ⑬ | 35 | ⑰ | 35 |
| ② | 29 | ⑥ | 29 | ⑩ | 24 | ⑭ | 25 | ⑱ | 32 |
| ③ | 29 | ⑦ | 39 | ⑪ | 28 | ⑮ | 26 | ⑲ | 40 |
| ④ | 34 | ⑧ | 44 | ⑫ | 37 | ⑯ | 30 | ⑳ | 34 |

（1）根据上面的数据填写下面的统计表。（5 分）

| 体重（kg） | 20 ~ 24 | 25 ~ 29 | 30 ~ 34 | 35 ~ 39 | 40 ~ 44 |
|---|---|---|---|---|---|
| 人数（人） | | | | | |

（2）体重在（　　）kg 范围内的人数最多，在（　　）kg 范围内的人数最少。（2 分）

6. 货比三家。（6 分）



小狗商店
牙刷 2.5 元
牙膏 4.3 元



小猫商店
牙刷 2.6 元
牙膏 4.5 元



小熊商店
牙刷 2.4 元
牙膏 3.8 元

小羊想买一支牙刷和一盒牙膏，如果在同一家商店买，在哪家商店买最便宜，需要多少钱？

## 五、挑战自我。（共 5 分）

1. 丫丫、红红和小丽进行跑步比赛。丫丫说：“我跑得不是最快的。”红红说：“我跑得没有丫丫跑得快。”由此可以推断出丫丫跑了第（　　）名，红红跑了第（　　）名，小丽跑了第（　　）名。（3 分）

2. 观察下面的图形，按照这样的规律摆下去，第 5 组有（　　）颗☆。（2 分）





荣德基好卷
微信公众号 教辅资料站
关注微信公众号“教辅资料站”获取更多学习资料
自己说说
老师点评
家长点评
密 封 线

荣德基 好卷

# 参考答案及点拨

三年级 数学 下 JJ版 （大卷）

## 第一单元跟踪检测卷

### 年、月、日

一、1. 29　闰　182　184　2. 15　10　30
3. 2　29　4. 92　13　1　5. 18　6. 13　53
7. 7　8　8. 13　9. 2024　10. 4　36　48

二、1. ×　2. √　3. ×　4. √　5. ×　6. ×

三、1. C　2. B　3. C　4. B　5. B

四、1.

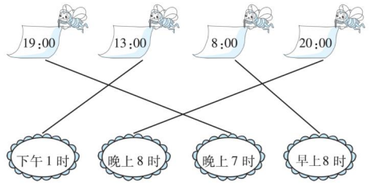


2.

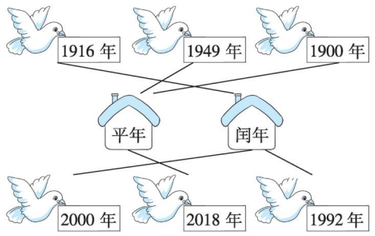


五、1. (1)2006　(2)12　30　(3)28

2. (1)6时　22时

(2)22时 − 6时 = 16小时

答：大货车每天限行16小时。

3. 17时30分 − 45分 − 3分 = 16时42分

答：他最晚16时42分从家走才能准时看上电影。

【点拨】用电影开始播放的时间减去从家到电影院需要的时间再减去3分，即最晚从家出发的时刻。

4. 晚上9时15分 = 21时15分

下午2时20分 = 14时20分

24时 − 21时15分 = 2小时45分

14时20分 − 0时 = 14小时20分

2小时45分 + 14小时20分 = 17小时5分

答：这列火车一共行驶了17小时5分。

【点拨】先把题中两个时刻分别用24时计时法表示，然后计算第一天和第二天这列火车分别行驶的时间，最后把这两天行驶的时间加起来就是一共行驶的时间。

5. 17日：24时 − 7时30分 = 16小时30分

10月18日～11月17日：

31 − 18 + 1 + 17 = 31(天)　24 × 31 = 744(小时)

18日：13小时59分

共：16小时30分 + 744小时 + 13小时59分 = 774小时29分或16小时30分 + 31天 + 13小时59分 = 32天6小时29分

答：“神舟十一号”飞船飞行了774小时29分。或“神舟十一号”飞船飞行了32天6小时29分。

【点拨】根据日期分成三段时间，分别计算出每段的飞行时间再相加，就是“神舟十一号”飞船飞行的时间。

附加题：365 ÷ 7 = 52(周)……1(天)　6 + 1 = 7

答：2019年9月15日是星期日。

【点拨】2019年是平年，2018年9月16日到2019年9月15日一共有365天，每7天是一周，365天有52周余1天，就在星期六的基础上往后加1天，即星期日。

366 ÷ 7 = 52(周)……2(天)

7 + 2 − 7 = 2

答：2020年9月15日是星期二。

【点拨】2020年是闰年，2019年9月16日到2020年9月15日一共有366天，每7天是一周，366天有52周余2天，就在星期日的基础上往后加2天，即星期二。列算式就是7 + 2 − 7 = 2。

## 第二单元跟踪检测卷

### 两位数乘两位数

一、1. 12　3　36　1　360　2. 2　三

3. 180　900　1080　4. 5　6

5. 360或380

【点拨】只把38看作40，大约是360；只把9看作10，大约是380。

6. =　>　>

7. 240(此空不唯一，合理即可)　216

8. 700　60

9. 770(此空不唯一，合理即可)　不会

二、1. √　2. ×　3. ×　4. ×　5. ×

三、1. C　2. A　3. B　4. C　5. A　6. C

四、1. 100　1400　2000　3000　3000　72　430　81　1200　350(估算结果不唯一，合理即可)

2.
$$\begin{array}{r} 25 \\ \times\ 34 \\ \hline 100 \\ 75 \\ \hline 850 \end{array} \qquad \begin{array}{r} 28 \\ \times\ 36 \\ \hline 168 \\ 84 \\ \hline 1008 \end{array}$$

3. 53 × 48 = 2544

$$\begin{array}{r} 53 \\ \times\ 48 \\ \hline 424 \\ 212 \\ \hline 2544 \end{array}$$

62 × 75 = 4650

$$\begin{array}{r} 62 \\ \times\ 75 \\ \hline 310 \\ 434 \\ \hline 4650 \end{array}$$

49 × 50 = 2450

$$\begin{array}{r} 49 \\ \times\ 50 \\ \hline 2450 \end{array}$$

4. 338 + 25 × 28 = 338 + 700 = 1038

18 × (313 − 259) = 18 × 54 = 972

14 × 20 ÷ 5 = 280 ÷ 5 = 56

五、1. 15 × 30 = 450(个)

答：李阿姨家的母鸡9月份能产450个鸡蛋。

2. 方法一：

68 × 30 + 68 × 31 = 4148(千瓦·时)

方法二：

68 × (30 + 31) = 4148(千瓦·时)

答：这所小学去年这两个月共用电4148千瓦·时。

3. 40 × 16 + 32 = 672(人)

672 < 700

答：这些汽车的座位够。

4. 12 × 5 × 32 = 1920(元)

答：这些热水瓶能卖1920元。

5. 88 × (26 − 1 − 1) + 76 × 1 + 49 × 1 = 2237(元)

答：最多要花2237元。

【点拨】三种椅子都买，要花最多的钱，最贵的椅子就要买最多的把数，其他两种椅子各买1把。

49 × (26 − 1 − 1) + 88 × 1 + 76 × 1 = 1340(元)

答：最少要花1340元。

【点拨】三种椅子都买，要花最少的钱，最便宜的椅子就要买最多的把数，其他两种椅子各买1把。

附加题：

1. 360 ÷ 6 = 60(元)　280 ÷ 4 = 70(元)

160 ÷ 2 = 80(元)　60 < 70 < 80

6 × 3 + 2 = 20(人)

360 × 3 + 160 = 1240(元)

答：20名男生住3个6人间和1个2人间最合算。

【点拨】要求怎样住最合算，也就是要求设计的方案最省钱，因此先求出三种房间每人花的钱数，尽量住每人花的钱数最少的房间。

2. (答案不唯一)

14 + 2 = 16(人)

方案1：6 × 2 + 4 = 16(人)

女生和女教师可以住2个6人间和1个4人间。

方案2：6 × 3 = 18(人)　18 > 16

女生和女教师可以住3个6人间。

【点拨】没有要求设计的方案最省钱，因此还可以住4个4人间，2个6人间和2个2人间等，只要符合要求即可。

## 第三单元跟踪检测卷

### 辨认方向

一、1. 东　南　西

2. 北极星　北　南　西　东

3. 西　南

4. 西北

5. (1)南　东　(2)西南　西

(3)西　西北

6. 西　南　东

二、1. ×　2. ×　3. √　4. ×　5. ×

三、1. C　2. C　3. A B　4. B　5. C　6. B

四、1.

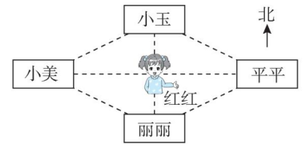


2. 略

3.

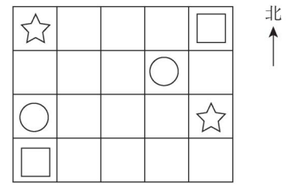


五、1. (1)东北　西南　东南　西北

(2)西北　西南

(3)东南　东北

2. (1)东南　西　东北

(2)40 + 50 = 90(米)　90 > 80 > 60

90 − 60 = 30(米)

答：小老鼠家去森林运动场的路程最近；小狐狸家最远；最远的比最近的远30米。

(3)小狗从家出发向西走80米到达森林运动场；

小狐狸从家出发，先向西走40米，再向北走50米，到达森林运动场；

小老鼠从家出发向东走60米到达森林运动场。

(4)小兔家在森林运动场的东北方向。

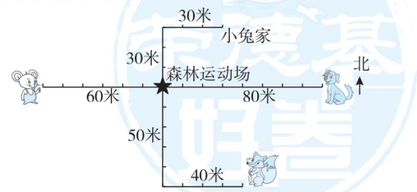


附加题：西　东　南　北

【点拨】从图中信息可知小猫的右面是北，根据东南西北四个方向的排列规则，可得到小猫的后面是东，左面是南，前面是西。

## 第四、五单元跟踪检测卷

### 毫米和千米　数据的收集和整理

一、1. 51　3　4　2. 800　200

3. 千米　60　40　20

4. 8　9000　23　1　8

5. 厘米　千克　米　分米　分米　厘米



关注微信公众号“教辅资料站”获取更多学习资料

千克　千米　分钟　厘米　厘米　毫米

6. (1)5　(2)5　(3)1600
(4)40

【点拨】剪 4 次,把这根铁丝剪成了 5 段。

二、1. ×　2. √　3. ×　4. ×　5. ×

三、1. A　2. C　3. C　4. C　5. C

四、1.

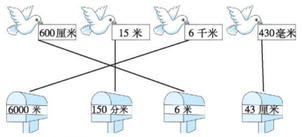


2.

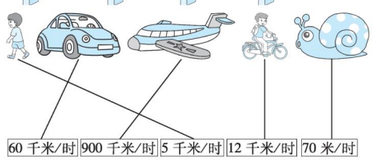


3. 下　3　下　3　正　丁　7

五、1. 75×4÷6=50(千米)
答:这辆货车平均每小时行驶 50 千米。
【点拨】货车行驶的路程就是汽车行驶的路程。

2. 上午 8 时=8 时　下午 5 时=17 时
640÷(17−8−1)=80(千米)
答:汽车平均每小时行驶 80 千米。
【点拨】先把题中的两个时刻转化为 24 时计时法,再进行计算。

3. (1)三　(2)45(答案不唯一,合理即可)
(3)30~34　45~49
(4)略。答案不唯一,合理即可。

4. 略。答案不唯一,合理即可。

5. 20 米=200 分米
200÷10+1=21(名)
答:最多能站 21 名同学。

附加题:1500−(45+55)×13=200(千米)
答:甲、乙两车还相距 200 千米。
【点拨】先算出甲、乙两车 13 小时一共行驶了多少千米,然后从 $A$ 地到 $B$ 地的总路程中,减去甲、乙两车一共所行驶的路程就是甲、乙两车还相距的路程。

## 期中检测卷

一、1. 3
2. 平　365　52　1
3. 2700
【点拨】可以把 92 和 31 中任意一个数看作整十数,也可以把这两个数都看作整十数。
4. 北　南　5. 9　3　6. 东北　600
7. 3000　26　2　1　6
8. (1)毫米　(2)厘米　(3)千米　(4)千米

二、1. √　2. ×　3. ×　4. ×　5. ×

三、1. B　2. A　3. C　4. A　5. B

四、1. (1)东南　西北　西南　东北
(2)先从老虎家出发向西南方向走到森林俱乐部,再向西走到小狗家,这样走最便捷。

2.

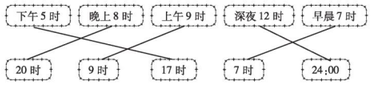


3. (1)2　7　9　5　1　24
(2)90~99 厘米　110 厘米及以上
(3)21

五、1. 800　720　1470　0　3200　660　2800　3400　1500　1800

2. 58×67=3886

$$\begin{array}{r} 58 \\ \times\ 67 \\ \hline 406 \\ 348 \\ \hline 3886 \end{array}$$

65×60=3900

$$\begin{array}{r} 65 \\ \times\ 60 \\ \hline 3900 \end{array}$$

74×25=1850

$$\begin{array}{r} 74 \\ \times\ 25 \\ \hline 370 \\ 148 \\ \hline 1850 \end{array}$$

3. 34×2×47
=68×47
=3196

(25+38)×15
=63×15
=945

680−512÷4
=680−128
=552

六、1. 5×2×45=450(人)
答:这两个年级共有 450 人。

2. 上午 8:20=8:20
15 时 20 分−8 时 20 分=7 小时
560÷7=80(千米)
答:这辆汽车平均每小时行 80 千米。

3. (1)84×5=420(千米)
答:学校到北京之间的路程是 420 千米。
(2)420÷6=70(千米)
答:客车平均每小时行 70 千米。
(3)38+1=39(人)　36×39=1404(元)
答:买车票应付 1404 元。
【点拨】参加旅游人数还包括李老师,共有 38+1=39(人)。

附加题:24×20−350=130(米)
答:这列火车长 130 米。
【点拨】这列火车行驶 24 秒的路程是桥长和火车长度之和。

## 第六单元跟踪检测卷

### 小数的初步认识

一、1. 一点零九　一点八零　2. 9.5　9.7
3. 4.37　5.20　4.85　5.20　4.85　4.37
4. 2.65　34.08　0.49　3.04　0.8　1.4
5. 毛巾　3.8　6. >　<　=　<　>
7. (1)5.7　5.8　5.9　(2)8.7　9.7　10.7
(3)6　6.8　7.6
8. 70.07

二、1. √　2. ×　3. ×　4. ×
5. ×
【点拨】比 0.2 大又比 0.4 小的小数有无数个,但是一位小数只有一个。

三、1. C　2. C　3. B　4. A　5. A　6. B

四、1. 1.43　0.04　2.8　0.9
2. 6.83<8.36<8.63

五、1. 0.7　4.6　3　1.2　15.2　8.6　4.3　0.4

2. 17.3+4.9=22.2

$$\begin{array}{r} 17.3 \\ +\ 4.9 \\ \hline 22.2 \end{array}$$

5.6−3.8=1.8

$$\begin{array}{r} 5.6 \\ -\ 3.8 \\ \hline 1.8 \end{array}$$

10−5.3=4.7

$$\begin{array}{r} 10.0 \\ -\ 5.3 \\ \hline 4.7 \end{array}$$

20.9+85.6=106.5

$$\begin{array}{r} 20.9 \\ +\ 85.6 \\ \hline 106.5 \end{array}$$

六、1. 8.3+9.5=17.8(元)　20>17.8
答:买这两本书够了。

2. (1)12.2−0.5=11.7(元)
答:小明捐了 11.7 元。
(2)11.7+1.6=13.3(元)
答:小芳捐了 13.3 元。

3. 28.6+8.8=37.4(元)
答:用去了 37.4 元。
37.4+35.6=73(元)
答:妈妈带了 73 元。

4. 4.2−(0.7+1.1)=2.4(米)
答:鱼塘水深 2.4 米。

5. 方法一:6.9−3.7=3.2(千克)
3.2+3.2=6.4(千克)
6.9−6.4=0.5(千克)
方法二:3.7+3.7=7.4(千克)
7.4−6.9=0.5(千克)
6.9−0.5=6.4(千克)
答:原来油重 6.4 千克;瓶重 0.5 千克。
【点拨】方法一:6.9 千克是一瓶油和瓶的质量,3.7 千克是半瓶油和瓶的质量,6.9−3.7=3.2(千克)就是半瓶油(一半油)的质量,从而求出油的总质量和瓶的质量。
方法二:3.7 千克是半瓶油和一个瓶的质量,3.7+3.7=7.4(千克)就是一瓶油和两个瓶的质量,7.4−6.9=0.5(千克)就是一个瓶的质量,再求出油的总质量。

附加题:2.8−1.8=1(米)
1÷(2−1)=1(米)
1.8−1=0.8(米)
答:两条彩带各剪去 0.8 米。
【点拨】两条彩带各剪去同样长的一段之前和之后,它们相差的长度不变,即 2.8−1.8=1(米),因为剩下的红彩带的长度是黄彩带的 2 倍,所以 1÷(2−1)=1(米)就是黄彩带剩下的长度。1.8−1=0.8(米)就是黄彩带剪去的长度,因为两条彩带各剪去同样长的一段,所以它们剪去的都是 0.8 米。

## 第七单元跟踪检测卷

### 长方形和正方形的面积

一、1. 400　82　2. 144　3. 8 $cm^2$　12 cm
4. 600　6　10　30000　5. 9　6. 14　4
7. (1)平方米　(2)平方厘米　(3)平方分米
(4)平方分米　(5)平方厘米

二、1. √　2. ×　3. ×　4. ×　5. ×　6. ×

三、1. A　2. C　3. C　4. B　5. C

四、(2)、(3)题的图形不唯一,合理即可。

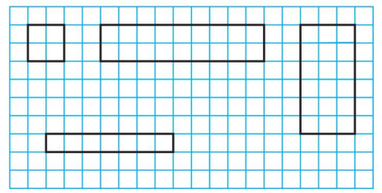

五、1. 7×4=28(米)　7×7=49(平方米)
(5+12)×2=34(分米)
12×5=60(平方分米)

2. (1)3
(2)6−3=3(cm)
6×6×2−3×3×2=54($cm^2$)
【点拨】可以把整个图看成两个重叠的大正方形,涂色部分的面积为两个大正方形面积之和减去两个重叠部分的面积和。

六、1. (1)(12+8)×2=40(米)
答:围栏长 40 米。
【点拨】求围栏长多少米,就是求这块西红柿地的周长。
(2)12×8×5=480(千克)
答:这块地共收 480 千克西红柿。

2. 45×8×2=720(平方米)
答:被压过的地面面积是 720 平方米。

3. 8×8=64(平方分米)
64×75=4800(平方分米)
4800 平方分米=48 平方米
答:小兰家的客厅有 48 平方米。

4. 50×30−30×2=1440(平方米)
答:这块菜地的面积是 1440 平方米。
【点拨】用总面积减去小路的面积就是菜地的面积。还可以用平移法,把小路平移到左边或右边,这块菜地的长是 50−2=48(米),宽是 30 米。根据长方形的面积公式可求菜地的面积。



关注微信公众号“教辅资料站”获取更多学习资料

附加题：96 − 4 × 4 = 80（平方厘米）

80 ÷ 2 = 40（平方厘米）

40 ÷ 4 = 10（厘米）

10 × 10 = 100（平方厘米）

答：原来正方形的面积是 100 平方厘米。

【点拨】如下图，边长增加 4 厘米后，增加的面积就是阴影部分及它上面和左面两个长方形这三部分的面积之和。

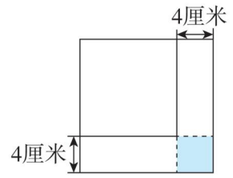


## 第八、九单元跟踪检测卷

### 分数的初步认识　探索乐园

一、1. $\frac{1}{3}$　$\frac{5}{6}$　$\frac{2}{4}$　$\frac{4}{4}$

2. $\frac{2}{5}$　$\frac{5}{8}$

3. 九分之三　$\frac{3}{8}$　六分之一　$\frac{3}{10}$

4. $\frac{1}{10}$　7　5. $\frac{1}{4}$　$\frac{2}{4}$

6. 5　9　12　7. 5　2　8. 灰兔　白兔

9. =　>　<　>　=　>　<　>

二、1. √　2. √　3. ×　4. ×　5. √

三、1. B　2. C　3. C　4. C　5. C

四、1. $\frac{3}{6}$　$\frac{2}{6}$　$\frac{5}{6}$　$\frac{2}{3}$　$\frac{1}{3}$　$\frac{1}{3}$　$\frac{3}{7}$　$\frac{4}{7}$　1　$\frac{3}{8}$　$\frac{5}{8}$

2. 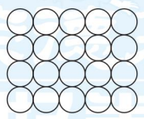　2　6　12　20

五、1. $\frac{7}{8}$　$\frac{1}{3}$　$\frac{3}{4}$　$\frac{3}{9}$　$\frac{2}{5}$　$\frac{3}{6}$　1　$\frac{5}{7}$

2. $\frac{7}{10}$　1　$\frac{4}{6}$　$\frac{7}{11}$　$\frac{5}{7}$　$\frac{1}{9}$　$\frac{6}{9}$

（最后两个空答案不唯一）

六、1. $\frac{3}{7}+\frac{1}{7}=\frac{4}{7}$（米）

答：另一根绳子长 $\frac{4}{7}$ 米。

$\frac{3}{7}+\frac{4}{7}=1$（米）

答：两根绳子一共长 1 米。

2. $\frac{3}{8}+\frac{2}{8}=\frac{5}{8}$

答：两天一共修了全长的 $\frac{5}{8}$。

$1-\frac{5}{8}=\frac{3}{8}$

答：再修全长的 $\frac{3}{8}$ 就修完了。

3. 圆圆获得了金牌，同同获得了银牌，乐乐获得了铜牌。

4. 这样安排不行，因为 $1-(\frac{4}{16}+\frac{8}{16})=\frac{4}{16}$，$\frac{4}{16}<\frac{9}{16}$，所以这样安排不行。

附加题：1. 9　2. 6　3. 3

【点拨】分母是几就表示把 18 支铅笔平均分成几份；分子是 1 就表示拿出其中的 1 份。

## 期末复习冲刺卷

### 模块过关卷（一）　数与代数

一、1. 7

2. 28

【点拨】分段计算假期时间，1 月：31 − 18 + 1 = 14（天），2 月：15 − 1 = 14（天），共 14 + 14 = 28（天）。

3. 300

4. 2　29　60　68　5. 30.08　6. 1.9

7. 10　3　$\frac{7}{10}$　十分之七

8. 0.32　零点三二

9. 教师　工人　医生

10. 0.18　5.2　3.09　5　6　300　0.8

二、1. ×　2. ×　3. √　4. ×　5. √　6. √

三、1. C　2. B　3. C　4. B　5. C

四、1. 2400　920　0　0.5　9.1　2.7　1　$\frac{2}{5}$　$\frac{2}{8}$　$\frac{5}{7}$

2. $37\times86=3182$

$$\begin{array}{r} 37 \\ \times\ 86 \\ \hline 222 \\ 296 \\ \hline 3182 \end{array}$$

$80\times75=6000$

$$\begin{array}{r} 75 \\ \times\ 80 \\ \hline 6000 \end{array}$$

$14.8+2.6=17.4$

$$\begin{array}{r} 14.8 \\ +\ 2.6 \\ \hline 17.4 \end{array}$$

$26-11.6=14.4$

$$\begin{array}{r} 26.0 \\ -\ 11.6 \\ \hline 14.4 \end{array}$$

3. $18\times(313-259)$
$=18\times54$
$=972$

$49\times2\times15$
$=98\times15$
$=1470$

$17.8-(3.6+6.4)$
$=17.8-10$
$=7.8$

五、1. $\frac{3}{8}$　$\frac{4}{8}$　$\frac{5}{7}$

2. 1 千米 > 80 分米 > 7 米 > 800 毫米 > 15 厘米

六、1.（1）$\frac{5}{8}+\frac{2}{8}=\frac{7}{8}$

答：小明和小刚一共用去这张纸的 $\frac{7}{8}$。

（2）$\frac{5}{8}-\frac{2}{8}=\frac{3}{8}$

答：小明比小刚多用去这张纸的 $\frac{3}{8}$。

2.（39 + 1 + 1）× 15 = 615（元）

615 > 600

答：不够。

【点拨】不要忘记两位老师也要买门票。

3. 13 × 36 × 7 = 3276（千克）

答：这些牛一星期共吃草 3276 千克。

4.（1）选《童话故事》和《动脑筋》这两本书。

10.4 + 4.3 = 14.7（元）

答：一共需要 14.7 元。

（答案不唯一）

（2）20 − 10.4 = 9.6（元）

4.3 + 5.2 = 9.5（元）　9.5 < 9.6

答：还可以买《动脑筋》和《快乐英语》这两本书。

（3）一本《童话故事》比一本《海底世界》贵多少元？

10.4 − 9.9 = 0.5（元）

答：一本《童话故事》比一本《海底世界》贵 0.5 元。

（答案不唯一）

附加题：3 米 = 30 分米

（30 − 15）÷（15 − 10）+ 1 = 4（天）

答：像它这样第 4 天才能爬上葡萄架。

## 期末复习冲刺卷

### 模块过关卷（二）　空间与图形、统计与概率

一、1. 26　2. 西　北

3. 平方分米　平方厘米　平方米

4.（1）北　40　西　40

（2）明明　强强

（3）西南　东南

（4）东北

5. >　<　=　<

二、1. √　2. ×　3. √　4. ×　5. ×

三、1. C　2. C　3. C　4. A　5. B

四、1.

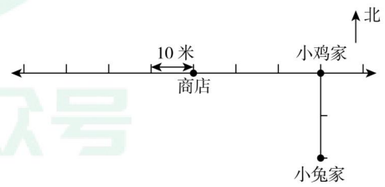


2. 10　15　10

3. 方法 1：（18 + 6）× 12 = 288（平方厘米）

（12 − 4）× 6 = 48（平方厘米）

288 − 48 = 240（平方厘米）

方法 2：18 × 12 + 6 × 4 = 240（平方厘米）

【点拨】方法 1 用的是添补法，把缺少的部分补上变成一个长方形，用长方形的面积减去补上的小长方形的面积即可；方法 2 用的是分割法，把不规则图形分割成两个长方形，分别算出它们的面积，最后相加即可。

五、1. 80 × 6 × 12 = 5760（平方米）

答：铺成的草坪的面积是 5760 平方米。

2.（1）26 × 18 = 468（平方米）

答：这块菜地的占地面积是 468 平方米。

（2）26 × 2 + 18 = 70（米）

答：至少需要 70 米长的篱笆。

3. 12 米 = 120 分米　6 米 = 60 分米

120 ÷ 3 = 40（块）　60 ÷ 3 = 20（块）

40 × 20 = 800（块）

答：至少需要购买 800 块这样的方砖。

4.（1）13　7　4　6　9

（2）①赵明　孙奇　②4　3　③赵明

（3）39

（4）不会影响选举结果，因为第一名赵明 13 票，第二名刘芳 9 票，9 + 1 = 10（票），10 < 13，所以如果他参与投票也不会影响选举结果。

附加题：长：120 ÷ 2 = 60（米）

宽：120 ÷ 4 = 30（米）

60 × 30 = 1800（平方米）

答：原来绿化地的面积是 1800 平方米。

## 期末复习冲刺卷

### 仿真模拟卷（一）

一、1. 38.08　三十八点零八

2. $\frac{1}{5}$　$\frac{3}{5}$　五分之三

3. 32　64

4. 毫米　平方米

5. 60　50　3000

6. 日　一

7. 2000　2

8. 西　南

9. <　=　<　<　<　=

二、1. ×　2. √　3. ×　4. ×　5. ×

三、1. A　2. A　C　3. A　4. B　5. B



荣德基好卷　微信公众号　教辅资料站
关注微信公众号“教辅资料站”获取更多学习资料

四、

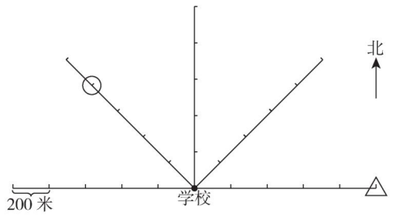


五、1. 720　800　$\frac{3}{5}$　8.7　2700　2800

2. $63\times89=5607$

$$\begin{array}{r} 63 \\ \times\ 89 \\ \hline 567 \\ 504 \\ \hline 5607 \end{array}$$

$4.9+10.1=15$

$$\begin{array}{r} 4.9 \\ +10.1 \\ \hline 15.0 \end{array}$$

$30-3.1=26.9$

$$\begin{array}{r} 30.0 \\ -\ 3.1 \\ \hline 26.9 \end{array}$$

3. $384+18\times25$
$=384+450$
$=834$

$39\times(86-26)$
$=39\times60$
$=2340$

$26\times15\times7$
$=390\times7$
$=2730$

六、1. (1)$\frac{2}{9}+\frac{2}{9}=\frac{4}{9}$

答:小熊乐乐和熊妈妈一共吃了这张饼的$\frac{4}{9}$。

(2)$\frac{2}{9}+\frac{2}{9}+\frac{4}{9}=\frac{8}{9}$　$\frac{8}{9}<1$　$1-\frac{8}{9}=\frac{1}{9}$

答:它们没有把这张饼吃完,还剩$\frac{1}{9}$

2. $6.7+9.8=16.5$(元)
$20-16.5=3.5$(元)
答:还剩3.5元。

3. 2米=20分米　$12+2+2=16$(分米)
$20\times16=320$(平方分米)
答:这个床单的面积是320平方分米。
【点拨】先统一单位,再进行计算。要在床的左右两侧各垂下2分米,床单的宽就是$12+2+2=16$(分米),长不变,为2米=20分米,根据长方形面积计算公式,即可求出床单的面积。

4. 夜里11时=23时
早晨7时=7时
24时$-23$时$=1$小时　$1+7=8$(小时)
$80\times8=640$(千米)
$640>600$
答:第二天早晨7时能到达目的地。

5. 爷爷的年龄:$2019-1954=65$(岁)
奶奶的年龄:$65-8=57$(岁)
$35\times3+20=125$(元)
答:买门票花了125元。
【点拨】由于60岁以上老人免门票,所以先计算出爷爷、奶奶的年龄,爷爷65岁可以免门票,因此买了3张成人票和1张儿童票。

附加题:$32\div2=16$(厘米)
$16\times16=256$(平方厘米)
答:大正方形的面积是256平方厘米。
【点拨】由图可知,大正方形的边长是长方形的长与宽的和,已知长方形的周长是32厘米,所以$32\div2=16$(厘米)就是长方形的长与宽的和,即大正方形的边长,再根据正方形的面积公式求出大正方形的面积即可。

## 期末复习冲刺卷

### 仿真模拟卷(二)

一、1. 366　181
2. 1.08　一点零八
3. 千米
4. 6　$\frac{5}{9}$　$\frac{3}{9}$
5. 战士　工人　农民
6. =　<　<　=　<　>
7. 厘米　毫米　平方米　千米

二、1. √
【点拨】正方形的周长=边长×4,两个正方形的周长相等,边长也就相等,所以面积一定相等。
2. ×　3. √　4. ×　5. ×

三、1. C　2. A　3. A　4. C　5. B

四、1. 640　2100　5.4　5.6　0　1　$\frac{3}{4}$　$\frac{5}{8}$　$\frac{1}{6}$　0

2. $68\times47=3196$

$$\begin{array}{r} 68 \\ \times\ 47 \\ \hline 476 \\ 272 \\ \hline 3196 \end{array}$$

$29\times70=2030$

$$\begin{array}{r} 29 \\ \times\ 70 \\ \hline 2030 \end{array}$$

$20-5.7=14.3$

$$\begin{array}{r} 20.0 \\ -\ 5.7 \\ \hline 14.3 \end{array}$$

3. $518-16\times25$
$=518-400$
$=118$

$25\times5\times9$
$=125\times9$
$=1125$

$10.9+5.2+1.8$
$=16.1+1.8$
$=17.9$

五、1. 5.0及以上　31　2. 7
3. 22　4. 53

六、1. $6\times8\times68=3264$(本)
答:新增书架一共可以放3264本书。
【点拨】先算新增的书架一共有多少层,再算一共可以放多少本书;或者也可以先算1个书架可以放多少本书,再算新增的8个书架一共可以放多少本书。

2. $1-(\frac{2}{7}+\frac{2}{7})=\frac{3}{7}$

答:还剩下这批水果的$\frac{3}{7}$。

3. 20分米=2米
$30\times2\times8=480$(平方米)
答:这台割草机8分钟割草的面积是480平方米。
【点拨】先统一单位,再计算。

4. 2米=20分米
$60\times20=1200$(平方分米)
1200平方分米=12平方米
$35\times12=420$(千克)
答:面积是1200平方分米,这块西瓜地共可收西瓜420千克。
【点拨】先统一单位,再计算。

5. (1)$2.5+0.8=3.3$(元)　$3.3>3$
答:不够。
(2)$7-4.5=2.5$(元)
$0.8+1.3=2.1$(元)　$2.1<2.5$
$0.8+0.4=1.2$(元)　$1.2<2.5$
$0.4+1.3=1.7$(元)　$1.7<2.5$
答:剩下的钱可以买油条和包子,或油条和馒头,或馒头和包子。

附加题:$(35-1)\div2=17$(米)
$(23-1)\div2=11$(米)
$17\times11=187$(平方米)
答:每一块的面积是187平方米。
【点拨】由题意可知,小路把菜地平均分成了4块,那么先求出每一块菜地的长和宽,再根据长方形面积公式计算出每一块菜地的面积。

## 期末复习冲刺卷

### 石家庄市新华区期末测试卷

一、1. (1)毫米　平方厘米　(2)千米
2. $\frac{5}{7}$　5　3. 3　5
4. 8小时30分钟　5. 16
6. =　<　<　<　>　<
7. $\frac{1}{8}$　$\frac{5}{8}$　$\frac{3}{8}$
8. 西　东　南　北
9. 1600　10. 四　3

二、1. C　2. C　3. A　4. C　5. B　6. B

三、1. $\frac{1}{4}$　$\frac{7}{8}$　1000　48　84　1　$\frac{3}{7}$　7200

2. $25\times37=925$

$$\begin{array}{r} 25 \\ \times\ 37 \\ \hline 175 \\ 75 \\ \hline 925 \end{array}$$

$6.3+2.5=8.8$

$$\begin{array}{r} 6.3 \\ +\ 2.5 \\ \hline 8.8 \end{array}$$

3. $49\times6\times5$
$=294\times5$
$=1470$

$12\times(63-28)$
$=12\times35$
$=420$

四、1. $\frac{3}{4}$

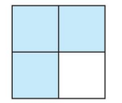




2. (1)

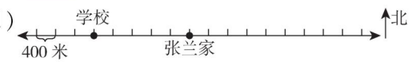


(2)8时5分$-7$时30分$=35$分钟
$35\times74=2590$(米)
2590米$>2$千米
答:她8时5分前能到学校。

3. (1)

| 2020年02月 | | | | | | |
|---|---|---|---|---|---|---|
| 日 | 一 | 二 | 三 | 四 | 五 | 六 |
| | | | | | | 1 |
| 2 | 3 | 4 | 5 | 6 | 7 | 8 |
| 9 | 10 | 11 | 12 | 13 | 14 | 15 |
| 16 | 17 | 18 | 19 | 20 | 21 | 22 |
| 23 | 24 | 25 | 26 | 27 | 28 | 29 |

(2)31$-18+1=14$(天)
$14+(9-1)=22$(天)
答:她寒假一共休息了22天。

4. (1)$8+1\times2=10$(分米)
$10\times10=100$(平方分米)
100平方分米=1平方米
答:这块桌布的面积是1平方米。
(2)$10\times4=40$(分米)
答:花边的长度是40分米。

5. (1)1　7　5　4　3
(2)25~29　20~24

6. 小狗商店:$2.5+4.3=6.8$(元)
小猫商店:$2.6+4.5=7.1$(元)
小熊商店:$2.4+3.8=6.2$(元)
$6.2<6.8<7.1$
答:在小熊商店买最便宜,需要6.2元。

五、1. 二　三　一
2. 15



关注微信公众号"教辅资料站"获取更多学习资料

# 好卷

小卷

- 周测培优卷（14套）
- 专项能力提升卷（7套）



# 三年级 数学

下（JJ版）

荣德基好卷

关注微信公众号“教辅资料站”获取更多学习资料



# 目录

## 周测培优卷


24 时计时法和 12 时计时法 …… 1

年、月、日的认识和平年、闰年的认识 …… 3

两位数乘两位数的计算方法及应用 …… 5

估算和连乘 …… 7

辨认方向 …… 9

毫米和千米的认识 …… 11

数据的收集和整理 …… 13

认识小数和比较小数的大小 …… 15

小数简单加减计算 …… 17

面积和面积单位 …… 19

长方形和正方形的面积及铺地面 …… 21

认识分数和比较分数的大小 …… 23

简单分数加减法 …… 25

探索乐园 …… 27


## 专项能力提升卷


24 时计时法与年、月、日的认识 …… 29

两位数乘两位数的计算及应用 …… 31

辨认方向与认识毫米和千米 …… 33

小数和分数的初步认识 …… 35

计算长方形和正方形的面积 …… 37

常考易错突破卷(一) …… 39

常考易错突破卷(二) …… 41

参考答案及点拨 …… 43


荣德基好卷

关注微信公众号“教辅资料站”获取更多学习资料

班级_____ 姓名_____ 得分_____ 时间：40分钟 满分：100分

## 一、填空。（每空1分，共22分）

1. 24时计时法和12时计时法的互相转换：
   李华早上6:30(　　)起床；
   早上10:00(　　)上体育课；
   中午12:00(　　)用餐；
   下午1:30(　　)上课；
   15:30(　　)上活动课；
   下午4:30(　　)放学；
   晚上6:30(　　)吃晚饭；
   19:00(　　)看新闻；
   20:05(　　)洗漱；
   晚上9:00(　　)睡觉。
2. 2019年1月5日是星期六，1月23日是星期(　　)，2月14日是星期(　　)。
3. 某超市一天的营业时间是8:30～21:30，这个超市一天的营业时间是(　　)小时。
4. 爸爸上夜班，晚上10:30上班，第二天早上6:30下班，他工作了(　　)小时。
5. 佳佳的生日是元旦的前两天，她的生日是(　　)月(　　)日。
6. 28个月是(　　)年(　　)个月。
7. 2010年是(　　)年，全年有(　　)天，这一年的1月、2月和3月共有(　　)天。
8. 今年寒假从1月16日开始放假，到2月9日开学，一共放假(　　)天。

## 二、判断。（对的在括号里画“√”，错的画“×”。每题2分，共10分）

1. 夜里12时也是第二天的0时。(　　)
2. 一年中，上半年和下半年的天数相等。(　　)
3. 每连续的四年里必有一年是闰年。(　　)
4. 一个月中不可能有五个星期日。(　　)
5. 我是2018年2月29日出生的。(　　)

## 三、选择。（将正确答案的字母填在括号里。每题2分，共10分）

1. 在一天的时间里，钟面的时针正好走了(　　)圈。
   A. 1　　B. 2　　C. 3
2. 妈妈一天工作8小时，她早上8时上班，中午休息1小时，下午(　　)下班。
   A. 4时　　B. 17时　　C. 5时
3. 叔叔每天8:20到单位，如果路上需要1小时30分钟，他最晚应该(　　)从家出发。
   A. 6:50　　B. 7:10　　C. 7:50
4. 闰年的2月最多有(　　)个星期六。
   A. 6　　B. 5　　C. 4
5. 下列年份中，(　　)是闰年。
   A. 1970年　　B. 1800年　　C. 2000年

荣德基好卷



关注微信公众号“教辅资料站”获取更多学习资料

## 四、按要求做题。（共 20 分）

1. 将相同的时刻连起来。（8 分）



10:10　20:00　24:00　15:50

2. 连一连。（12 分）

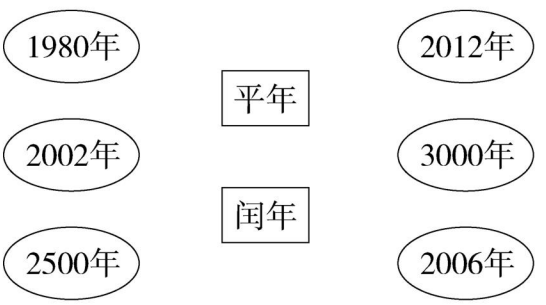


## 五、解决问题。（共 38 分）

1. 一列火车 9 时 30 分从甲地出发开往乙地，途中用了 90 分钟，求这列火车到达乙地的时间。（7 分）

2. 观察下面的月历表，并回答问题。

| 日 | 一 | 二 | 三 | 四 | 五 | 六 |
|---|---|---|---|---|---|---|
| | 1 | 2 | 3 | 4 | 5 | 6 |
| 7 | 8 | 9 | 10 | 11 | 12 | 13 |
| 14 | 15 | 16 | 17 | 18 | 19 | 20 |
| 21 | 22 | 23 | 24 | 25 | 26 | 27 |
| 28 | 29 | 30 | | | | |

（1）儿童节在这张月历表上，这个月是（　　）月。（2 分）

（2）这个月的第一个星期日是（　　）日；最后一个星期日是（　　）日；推算一下，上个月的最后一个星期日是（　　）月（　　）日。（8 分）

（3）月历中，连续 5 天的日期之和是 90，请你分别算出这 5 天的日期。（5 分）

3. 观察下表，回答问题。

| 车次 | 始发站 | 始发时间 | 终点站 | 到站时间 |
|---|---|---|---|---|
| T8 | 成都 | 8:40 | 北京西 | 第二天 12:31 |




（1）请你计算一下从成都到北京西，这列火车一共运行了多长时间？（8 分）

（2）明明要乘坐这列火车去北京，他从家到成都火车站要 30 分钟，他最晚要在什么时间从家出发才不会误车？（8 分）

荣德基好卷



关注微信公众号“教辅资料站”获取更多学习资料

班级_____ 姓名_____ 得分_____ 时间：40分钟 满分：100分

## 一、填空。（每空 1 分，共 20 分）

1. 口算 60 ×30 时，可以先算（　　）×（　　），再在得数的末尾添上（　　）个0。
2. 25 ×40 的积的末尾有（　　）个 0。
3. 92 ×38 的积的个位是（　　），积是（　　）位数，积是（　　）；估算时，可以把 92 看成（　　），把 38 看成（　　），所以 92 ×38 ≈（　　）。
4. 一个两位数乘 6 所得的积，等于 12 乘 25 的积，这个两位数是（　　）。
5. 妈妈买了 12 盆花，每盆 14 元，根据竖式填空。

```
  14
× 12
  28……买（  ）盆花，应付（  ）元。
  14 ……买（  ）盆花，应付（  ）元。
 168……买（  ）盆花，应付（  ）元。
```

6. □4 ×16，如果积是三位数，□里最大能填（　　）；如果积是四位数，□里最小能填（　　）。
7. 28 ×50 的积是 28 ×（　　）的积的 10 倍。

## 二、判断。（对的在括号里画“√”，错的画“×”。每题 2 分，共 10 分）

1. 一个数乘 13，所得的积可能是三位数，也可能是四位数。（　　）
2. 13 +27 ×42 =1680　　（　　）
3. 两位数乘两位数，积不一定是四位数。（　　）
4. 17 个 14 的和与 17 的 14 倍不相等。（　　）
5. 78 ×89 的计算结果一定比 7200 小。（　　）

## 三、选择。（将正确答案的字母填在括号里。每题 2 分，共 10 分）

1. 作文本一页有 19 行，每行能写 32 个字，这一页大约能写（　　）个字。

   A. 400　　B. 600　　C. 900

2. 下面算式的积是四位数的是（　　）。

   A. 22 ×31　B. 32 ×31　C. 57 ×32

3. 38 ×52 的竖式中，计算 3 乘 5，实际是计算（　　）。

   A. 3 ×5　　B. 30 ×50　C. 30 ×5

4. 下面各数中，（　　）最接近 1000。

   A. 1099　　B. 902　　C. 960

5. 与 65 ×90 的积不相等的算式是（　　）。

   A. 650 ×9　　B. 60 ×95

   C. 65 ×9 ×10

## 四、计算。（共 28 分）

1. 用竖式计算。（12 分）

   78 ×23　　57 ×60

   52 ×49　　86 ×35



关注微信公众号“教辅资料站”获取更多学习资料

2. 脱式计算。(16 分)

246 ÷ 6 × 15　　125 + 9 × 33

600 − 43 × 12　　17 × (35 + 28)

## 五、解决问题。(共 32 分)

1. 实验小学去年植树节植树 14 行,每行 26 棵,今年一共植树 538 棵。今年比去年多植树多少棵?(6 分)

2. 调查显示,彻底关闭一台电视机 1 小时可以减少碳排放 86 克,如果彻底关闭 5 台电视机 3 小时,一共可以减少碳排放多少克?(6 分)

3. 悠悠看一本故事书,平均每天看 15 页,已经看了 12 天,还有 178 页没有看,这本故事书一共有多少页?(6 分)

4. 下面是一种药品说明书的一部分,算一算,一瓶这种药够一名患者连续服用 15 天吗?(7 分)

【规格】每粒 0.5 克,共 180 粒。
【用法用量】口服,一日 3 次,一次 4 粒。

5. 4 位家长带领 8 个小朋友去吃饭,你能帮他们选择一个最划算的用餐方案吗?(7 分)

| 方案一: | 方案二: |
| --- | --- |
| 儿童餐:15 元<br>成人餐:20 元 | 团体 10 人以上(包括 10 人),每人 18 元。 |

荣德基好卷



关注微信公众号“教辅资料站”获取更多学习资料

班级_____ 姓名_____ 得分_____ 时间：40分钟 满分：100分

## 一、填空。（每空1分，共17分）

1. 明明和亮亮面对面坐着，明明面向北，亮亮面向(　　)。
2. 把手表平放在桌面上，用数字12正对着北方，正对着南方的数字是(　　)，数字9正对着(　　)方。
3. 10本同样的书摞起来厚9厘米，一本这样的书厚(　　)毫米。
4. 乐乐骑自行车每分钟行500米，他8分钟行(　　)米，合(　　)千米。
5. 在(　　)里填上合适的单位。



电线杆高约6(　　)。

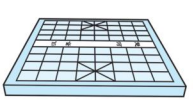

一个象棋棋盘的厚度约是15(　　)。

6. 3千米 = (　　)米

600dm = (　　)m

5cm = (　　)mm

9 dm = (　　) mm

2400 米 + 3600 米 = (　　) 米 = (　　)千米

150 mm + 350 mm = (　　) mm = (　　)cm = (　　)dm

## 二、看图判断对错。（对的在括号里画“√”，错的画“×”。每题2分，共14分）

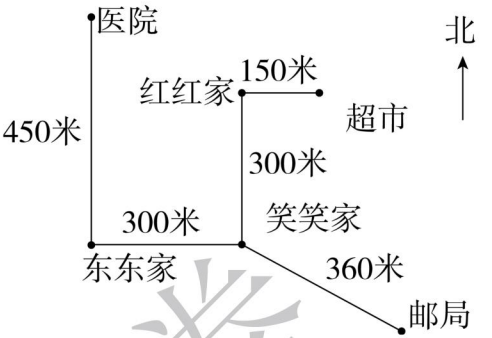


1. 笑笑家在红红家的北面。　　(　　)
2. 东东家在笑笑家的西面。　　(　　)
3. 红红家离超市最近。　　(　　)
4. 医院在红红家的北面。　　(　　)
5. 邮局在笑笑家的东北方向。　　(　　)
6. 红红家在医院的东南方向。　　(　　)
7. 东东家在红红家的西南方向。(　　)

## 三、选择。（将正确答案的字母填在括号里。每题3分，共15分）

1. 与北相对的方向是(　　)。

A. 东　　B. 西　　C. 南

2. 黑板在教室的西面，老师讲课时面向(　　)面。

A. 东　　B. 西　　C. 南

3. 一个长方形，长是3分米，宽是2分米，周长是100(　　)。

A. 米　　B. 分米　　C. 厘米

4. 小亮走一步的距离大约是30厘米，他从教室到美术室走了90步，教室到美术室的距离大约是(　　)米。

A. 2700　　B. 270　　C. 27

荣德基好卷



关注微信公众号“教辅资料站”获取更多学习资料

5. (　　)是比较大的长度单位,也叫做公里。

A. 米　　B. 千克　　C. 千米

## 四、按要求做题。(共 21 分)

1. 按从长到短的顺序排一排。(5 分)

15 厘米　　7 米　　80 分米

800 毫米　　1 千米

2. 按要求画图,并回答问题。

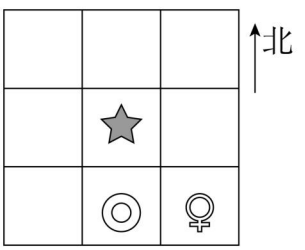


(1)在★的东北方画△,西北方画□。(4 分)

(2)在★的西方画※,◎在※的(　　)方。(4 分)

(3)◎在★的(　　)方,★在◎的(　　)方。(4 分)

(4)♀在★的(　　)方,♀在◎的(　　)方。(4 分)

## 五、解决问题。(共 33 分)

1. 妈妈有一根 1 米长的丝带,装饰衣服用去了 40 厘米,装饰裙子又用去了 52 厘米。还剩多少毫米?(6 分)

2. 一辆汽车从甲地到乙地用了 4 小时,平均每小时行驶 70 千米。一辆摩托车从乙地到甲地用了 5 小时,这辆摩托车平均每小时行驶多少千米?(6 分)

3. 修一条长 1500 米的公路,已经修了 690 米,剩下的 9 天修完,平均每天修多少米?(6 分)

4. 一根木条长 30 分米,把它截成相等的 6 段,每段长多少厘米?需要截几次?(7 分)

5. 小敏从家到学校一共要经过 12 根电线杆(小敏家门口和学校门口都有 1 根电线杆),每相邻 2 根电线杆之间的距离是 60 米。计算一下小敏家到学校有多少米?(8 分)

荣德基好卷



关注微信公众号“教辅资料站”获取更多学习资料

班级_____ 姓名_____ 得分_____ 时间：40分钟 满分：100分

## 一、填空。（每空1分，共21分）

1. 18.06读作(　　)；二十六点四零写作(　　)。

2. $\frac{4}{7}$读作(　　)，它里面有(　　)个$\frac{1}{7}$；1里面有(　　)个$\frac{1}{5}$。

3. 把一块蛋糕平均分成10份，每份是这块蛋糕的(　　)，取走其中的3份，取走的部分用分数表示是(　　)。

4. 小明买了一盒牛奶，用了两个1元和一个5分，这盒牛奶(　　)元。

5. 一盏台灯的价格是24元6分，合(　　)元。

6. 两个数都是1.8，它们的和是(　　)。

7. 用1、2、3、4和小数点组成最大的小数是(　　)，最小的小数是(　　)。

8. 在◯里填上“＞”“＜”或“＝”。

8.5米◯8.06米

1元6角◯1.06元

3.60◯3.6

4100克◯4.1千克

6.2平方分米◯600平方厘米

$\frac{1}{6}$◯$\frac{1}{4}$　　$\frac{5}{8}$◯$\frac{3}{8}$

$\frac{2}{9}+\frac{7}{9}$◯1　　$1-\frac{4}{7}$◯$\frac{4}{7}$

## 二、判断。（对的在括号里画“√”，错的画“×”。每题2分，共12分）

1. 小数就是非常小的数。　　(　　)

2. 0.08中间的0可以不读。　　(　　)

3. 3个$\frac{1}{3}$的和与5个$\frac{1}{5}$的和同样大。　　(　　)

4. 10.20读作：十点二。　　(　　)

5. 2米60厘米，可以用2.60米表示，也可以用2.6米表示。　　(　　)

6. 把一张纸分成5份，其中的4份就是这张纸的$\frac{4}{5}$。　　(　　)

## 三、选择。（将正确答案的字母填在括号里。每题3分，共15分）

1. 2.86米中的“6”表示(　　)。

A. 6分米　B. 6厘米　C. 6毫米

2. 8.□2＞8.63，□里可以填的数字有(　　)个。

A. 4　　B. 3　　C. 2

3. 下列分数中最小的是(　　)。

A. $\frac{2}{5}$　　B. $\frac{3}{5}$　　C. $\frac{3}{4}$

4. 把一根木头锯成同样长的小段，锯了4次，每小段的长度占这根木头全长的(　　)。

A. $\frac{1}{3}$　　B. $\frac{1}{4}$　　C. $\frac{1}{5}$

5. 同样多的两杯水，小红喝了其中一杯的$\frac{1}{6}$，小东喝了另一杯的$\frac{1}{8}$，(　　)剩下的水多。

A. 小红　B. 小东　C. 无法判断



关注微信公众号“教辅资料站”获取更多学习资料

## 四、按要求做题。（每题 4 分，共 8 分）

1. 用分数表示涂色部分。

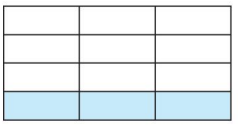

（　　）

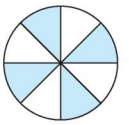

（　　）

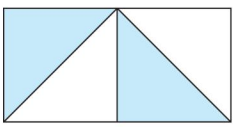

（　　）

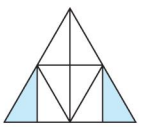

（　　）

2. 把 $\frac{1}{7}$、$\frac{2}{5}$、$\frac{2}{7}$、$\frac{3}{5}$ 按从小到大的顺序排列。

## 五、计算。（每题 6 分，共 12 分）

1. 直接写得数。

$\frac{1}{5}+\frac{4}{5}=$　　$1-\frac{7}{8}=$　　$\frac{4}{10}+\frac{5}{10}=$

$3.2+0.8=$　　$14.5-4.2=$

$7.5+6.3=$

2. 用竖式计算。

$21.8+7.26$　　$10-5.8$

## 六、解决问题。（共 32 分）

1. 一根绳子长 9.6 米，捆树苗用去了 3.8 米，修篱笆用去了 4.2 米，还剩下多少米？（7 分）

2. 六一儿童节，三(1)班同学买来一些气球装饰教室，其中红气球占总数的 $\frac{2}{9}$，黄气球占总数的 $\frac{3}{9}$，其余是蓝气球。

(1)红气球和黄气球共占总数的几分之几？（6 分）

(2)蓝气球占总数的几分之几？（6 分）

3. 下面分别是每千克蔬菜的价格。



6.5 元



11.0 元



6.2 元

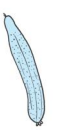

5.4 元



4.8 元

(1)妈妈买了白菜、萝卜和黄瓜各 1 千克，她拿出 20 元钱够不够？如果不够，应补多少元钱？（6 分）

(2)请你提出一个数学问题并解答。（7 分）

荣德基好卷



关注微信公众号“教辅资料站”获取更多学习资料

# 专项能力提升卷 5　计算长方形和正方形的面积

班级_____　姓名_____　得分_____　时间：40分钟　满分：100分

## 一、填空。（每空1分，共16分）

1. 在一个长方形上正好摆了8个面积为1平方厘米的正方形，这个长方形的面积为(　　)平方厘米。
2. 用边长都为1分米的两个正方形拼成一个长方形，这个长方形的长是(　　)分米，面积是(　　)平方分米，周长是(　　)分米。
3. 一个正方形，周长是16米，边长是(　　)，面积是(　　)。
4. 在一张长15米、宽10米的长方形纸中，剪下一个最大的正方形，这个正方形的面积是(　　)平方米，剩下部分的面积是(　　)平方米。
5. 下列各图形是由边长为1厘米的小正方形拼成的，分别写出它们的周长和面积。

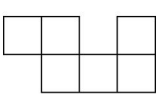

周长(　　)厘米
面积(　　)平方厘米



周长(　　)厘米
面积(　　)平方厘米

6. 82平方分米 = (　　)平方厘米
500平方分米 = (　　)平方米
900平方厘米 = (　　)平方分米
2600平方分米 = (　　)平方米

## 二、判断。（对的在括号里画“√”，错的画“×”。每题3分，共15分）

1. 面积单位大于长度单位。　(　　)
2. 分别用8根火柴棒摆成一个长方形和一个正方形，摆成的这两种图形的面积相等。　(　　)
3. 边长是1米的正方形，面积是4平方米。　(　　)
4. 明明的身高是137平方厘米。　(　　)
5. 一张长6cm、宽3cm的长方形纸，可以剪成两张完全相同的正方形纸。　(　　)

## 三、选择。（将正确答案的字母填在括号里。每题3分，共15分）

1. 与1平方米最接近的面积是(　　)平方分米。
A. 9　　B. 90　　C. 900
2. 长方形的长和宽都扩大到原来的2倍，面积就扩大到原来的(　　)倍。
A. 2　　B. 4　　C. 8
3. 面积是12平方厘米的长方形(长和宽都是整厘米数)有(　　)个。
A. 1　　B. 2　　C. 3
4. 用边长为1厘米的小正方形拼成以下三个图形，其中周长最长的是(　　)。

A. 　B. 

C. 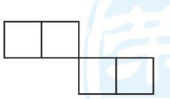

5. 用一张长35厘米、宽28厘米的长方形彩纸，最多可以剪出(　　)张面积是7平方厘米的小长方形彩纸。
A. 20　　B. 140　　C. 145



荣德基 版权
关注微信公众号“教辅资料站”获取更多学习资料

## 四、计算。(14 分)

计算下列各图形的面积。(单位:厘米)

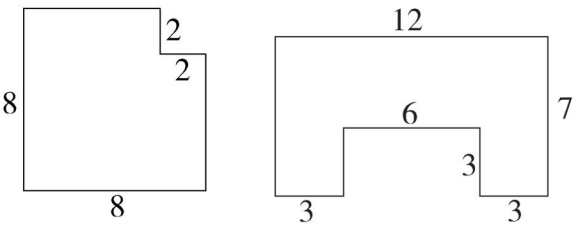


## 五、解决问题。(共 40 分)

1. 聪聪家的院子里有一个长方形的小花园,长 15 米,宽 5 米。如果每平方米可以种 3 棵树,这个小花园一共可以种多少棵树?(8 分)

2. 如图,王叔叔用 36 米长的篱笆围成了一块一面靠墙的长方形菜地,这块菜地的面积是多少平方米?(8 分)

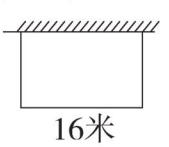


3. 一家商店要铺地面,现有下面两种规格的地砖。

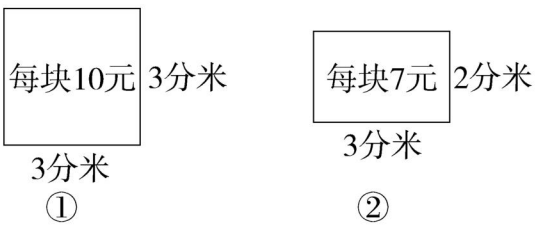


(1)如果选择①规格的地砖,需要 500 块,则所铺地面的面积是多少平方米?(8 分)

(2)如果选择②规格的地砖,需要多少块?(8 分)

(3)选择哪种地砖便宜?相差多少钱?(8 分)

荣德基好卷



关注微信公众号“教辅资料站”获取更多学习资料

班级_____ 姓名_____ 得分_____ 时间：40分钟 满分：100分

## 一、填空。（每空1分，共23分）

1. 43×52的积是(　　)位数，最高位是(　　)位。
2. 去年的校园文化节3月25日开幕，历时12天，于(　　)月(　　)日结束。
3. 一个蛋糕平均分成8块，一家三口每人各吃了1块，共吃了这个蛋糕的$\left(\frac{\quad}{\quad}\right)$，还剩下这个蛋糕的$\left(\frac{\quad}{\quad}\right)$。
4. 学校在小芳家的东面，放学后，小芳应该向(　　)面走就到家了。
5. 一个小数去掉小数点后读作八千零八，这个小数只读一个零，它是(　　)。
6. 观察下面用小棒摆成的图形。推算一下，第8个图形是用(　　)根小棒摆成的。



7. 2019年的1至3月份共有(　　)天，5月1日是星期三，推算一下，6月1日是星期(　　)。
8. 在空格里填上合适的分数。

| | | | |
|---|---|---|---|
| |  |  |  |
| 涂色部分 | | | |
| 未涂色部分 | | | |

9. 在◯里填上“＞”“＜”或“＝”。

$27\times17$ ◯ $37\times17$

$40\times45$ ◯ $45\times40$

$9.9+2.1$ ◯ $10.2+0.8$

$1-\frac{1}{8}$ ◯ $\frac{3}{8}+\frac{3}{8}$

$3.4+4.5$ ◯ $10-2.1$　　$\frac{7}{7}$ ◯ $\frac{9}{9}$

## 二、判断。（对的在括号里画“√”，错的画“×”。每题3分，共15分）

1. 周长相等的长方形和正方形，正方形的面积大。(　　)
2. 因为2200能被4整除，所以2200年是闰年。(　　)
3. 把一根木头平均锯成7段，锯一次所用的时间占所用总时间的$\frac{1}{7}$。(　　)
4. 用竖式计算小数加法时，小数点要对齐，从个位加起。(　　)
5. 下面两个圆完全一样，则涂色部分的面积大小相等。(　　)

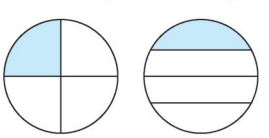

## 三、选择。（将正确答案的字母填在括号里。每题3分，共15分）

1. 比$\frac{5}{8}$大的真分数有(　　)个。

A. 3　　B. 10　　C. 无数

2. 用12个边长是1厘米的正方形拼成的长方形中，周长最长的是(　　)厘米。

A. 26　　B. 16　　C. 14



关注微信公众号“教辅资料站”获取更多学习资料

3. 甲、乙两杯饮料同样多，小明喝了甲杯的$\frac{1}{3}$，小亮喝了乙杯的$\frac{1}{4}$，(　　)杯剩下的饮料多。

A. 甲　　B. 乙　　C. 无法确定

4. 右图中甲、乙两部分相比较，(　　)。




A. 周长和面积都相等

B. 周长相等，面积不相等

C. 周长不相等，面积相等

5. 三个人进行百米赛跑，张强用了16.6秒，王军用了17.5秒，李明用了16.1秒，(　　)获胜。

A. 张强　　B. 王军　　C. 李明

## 四、计算下列各图形中阴影部分的面积。(单位：分米)(12分)

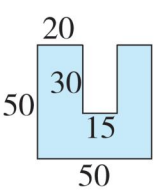


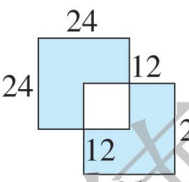


## 五、解决问题。(每题7分，共35分)

1. 小红的妈妈绣了一幅漂亮的长方形十字绣，这幅绣品的周长是180厘米，它的长是50厘米，这幅绣品的面积是多少平方分米？

2. 从保定到天津的高速公路约长200千米，一辆汽车9:30从保定出发，11:30距离天津还有4千米，这辆汽车平均每小时行驶多少千米？

3. 阳光小学的教学楼是4层，每层有8间教室，每间教室内有40套桌椅，阳光小学的教室内一共有多少套桌椅？

4. 一筐苹果连筐重25.8千克，卖出一半后，连筐重13.8千克。原来这筐苹果重多少千克？筐重多少千克？

5. 一个周长是36米的正方形大厅，用边长是3分米的正方形瓷砖铺地，铺满这个大厅，至少需要多少块瓷砖？

荣德基好卷



关注微信公众号“教辅资料站”获取更多学习资料

# 专项能力提升卷 7　常考易错突破卷（二）

班级_____　姓名_____　得分_____　时间：40分钟　满分：100分

## 一、填空。（每空1分，共19分）

1. 超市的营业时间为早上8:30～晚上9:30，一天的营业时间是(　　)小时。

2. $\frac{3}{7}$读作(　　)，它里面有(　　)个$\frac{1}{7}$，再加上(　　)个$\frac{1}{7}$就等于1。

3. 图形□□□是由三个相同的正方形拼成的一个长方形，它的周长是56厘米，这个长方形的面积是(　　)平方厘米。

4. 在(　　)里填上合适的单位。
一只蚂蚁身长约5(　　)。
石家庄到邯郸的路程约170(　　)。
一本练习本封面的面积是3(　　)。
石家庄正定子龙大桥全长1970(　　)。

5. 2米9厘米＝(　　)米
12厘米＝(　　)分米
(　　)角＝0.6元
36平方分米＝(　　)平方厘米
58分＝(　　)元＝(　　)角(　　)分

6. 用完全相同的小棒摆长方形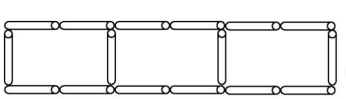，像这样摆10个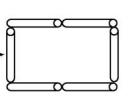，共需要(　　)根小棒。
如果一根小棒长10厘米，则一个小长方形的面积是(　　)平方厘米。

7. 小明在用竖式计算4.2加一个整数时，由于只把数的末位对齐，结果得到5，正确的结果应该是(　　)。

## 二、判断。（对的在括号里画“√”，错的画“×”。每题3分，共12分）

1. 把4个面积都为1平方厘米的正方形拼成各种图形，它们的面积都是4平方厘米。(　　)

2. 因为公历2000年、2100年和2016年的年份都是4的倍数，所以都是闰年。(　　)

3. 0.3和0.8之间只有4个小数。(　　)

4. 估算结果要比实际结果大一些。(　　)

## 三、选择。（将正确答案的字母填在括号里。每题3分，共18分）

1. 计算长方形的面积，必须知道长方形中(　　)两条边的长度。
A. 相对　　B. 相邻　　C. 任意

2. 10平方米与10米相比较，(　　)。
A. 10平方米大　B. 一样大
C. 无法比较

3. 一本故事书8.8元，比一本作文书贵1.2元，一本故事书和一本作文书共(　　)元。
A. 10　　B. 16.4　　C. 18.8

荣德基好卷



关注微信公众号“教辅资料站”获取更多学习资料

4. 在一个边长为2分米的正方形里可以摆放(　　)个面积是1平方厘米的小正方形。

A. 4　　B. 40　　C. 400

5. 46×27,十位上的4乘2得8,“8”表示8个(　　)。

A. 十　　B. 百　　C. 千

6. 下列分数中,(　　)比$\frac{1}{8}$大,且比$\frac{6}{8}$小。

A. $\frac{5}{8}$　　B. $\frac{7}{8}$　　C. $\frac{8}{8}$

## 四、计算。(每题8分,共16分)

1. 用竖式计算。

76×48　　20−9.8

2. 先看清运算顺序,再计算。

342−216÷6　　25×(281−197)

## 五、解决问题。(共35分)

1. 朝阳小学三(1)班选举中队长,李磊和王艳是中队长候选人,下面是两人的得票情况。

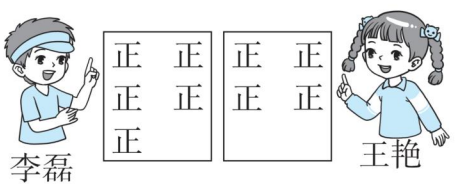


(1)根据上面的结果完成下面的统计表。(2分)

| 姓名 | 李磊 | 王艳 |
| --- | --- | --- |
| 票数(张) | | |

(2)根据统计表回答问题。

①根据得票情况,(　　)会当选为中队长。(2分)

②有2名同学因病请假没有参加投票,如果他们也投了票,结果会发生变化吗?(4分)

2. 如图,妈妈买了一串红和郁金香各一盆,付给营业员20元,应找回多少元?(9分)




3. 王师傅开车上午8时30分从上海出发,正好晚上10时30分到达北京。

(1)王师傅路上用了多长时间?(9分)

(2)如果王师傅平均每小时行90千米,那么上海到北京的距离约是多少千米?(9分)

荣德基好卷



关注微信公众号“教辅资料站”获取更多学习资料

## 周测培优卷 1

### 24 时计时法和 12 时计时法

一、1. 2　24　2. 24　0　3. 7

4. 22 时

5. (1)9　30　9　50　20

(2)16　15　17　40　1　25

6. 1　1　2　30

二、1. ×　2. √　3. ×　4. ×

5. ×　【点拨】把 60 小时分成 48 小时和 12 小时。中午 12 时过 48 小时还是中午 12 时，再过 12 小时就是晚上 12 时，看不到太阳了。

三、1. C　2. A　3. B　4. A

5. C　【点拨】如果用 12 时计时法表示时刻，必须加时间限制。

四、1.

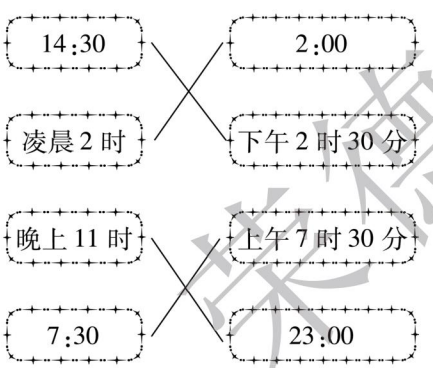


2. 上午 7 时或上午 7:00
7 时或 7:00

上午 10 时或上午 10:00
10 时或 10:00

晚上 9 时或晚上 9:00
21 时或 21:00

凌晨 3 时或凌晨 3:00
3 时或 3:00

五、1. (1)8 时 30 分 + 8 小时 = 16 时 30 分

答：小红的妈妈每天 16 时 30 分下班。

(2)16 时 30 分 + 40 分 = 17 时 10 分

答：小红的妈妈 17 时 10 分到家。

2. (1)17:30　19:30

(2)8 时 30 分 − 6 时 = 2 小时 30 分

答：美味快餐店每天早餐营业 2 小时 30 分。

(3)午餐：13 时 20 分 − 11 时 40 分 = 1 小时 40 分

晚餐：19 时 30 分 − 17 时 30 分 = 2 小时

共：2 小时 30 分 + 1 小时 40 分 + 2 小时 = 6 小时 10 分

答：美味快餐店每天共营业 6 小时 10 分。

## 周测培优卷 2

### 年、月、日的认识和平年、闰年的认识

一、1. 年　月　日　2. 12　7　4　31　30

3. 8　31　11　30　4. 7　8　12　1

5. 29

6. 91　【点拨】先判断 2020 年是平年还是闰年，再算 1 月、2 月、3 月的总天数。

7. 12

8. 28　平　365　52　1

二、1. ×　2. √　3. ×　4. ×

5. ×　【点拨】公历年份是整百数的必须是 400 的倍数才是闰年，2100 不是 400 的倍数，所以 2100 年不是闰年。

6. ×

三、1. B

2. A　【点拨】先判断 2019 年是平年还是闰年，再计算。

3. C

4. C　【点拨】7 月 2 日开始放暑假，2 日就不上学了，暑假包括这天，9 月 1 日开学，暑假不包括这天，所以 7 月放假 30 天，8 月放假 31 天，共放假 61 天。



关注微信公众号“教辅资料站”获取更多学习资料

5. A　6. A

四、1.

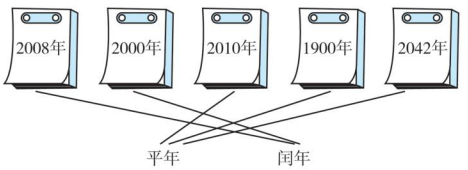


2. 1月1日　9月9日　2月29日

12月3日

3. (1)一　(2)4　(3)一　(4)三

(5)

| 日 | 一 | 二 | 三 | 四 | 五 | 六 |
|---|---|---|---|---|---|---|
| | 1 | 2 | 3 | 4 | 5 | 6 |
| 7 | 8 | 9 | 10 | 11 | 12 | 13 |
| 14 | 15 | 16 | 17 | 18 | 19 | 20 |
| 21 | 22 | 23 | 24 | 25 | 26 | 27 |
| 28 | 29 | 30 | 31 | | | |

①四　二

【点拨】5月5日~6月4日有31天,6月5日~7月4日有30天,(31+30)÷7=8(个)……5(天)。4+5-7=2,7月4日就是星期二。

②10×9=90　14×9=126

答:月历中圈出的3×3方框中的9个数的和等于正中间数的9倍,图B中的9个数的和就是14的9倍即126。

五、1. 因为冬冬爸爸的生日是2月29日。冬冬爸爸的生日是2月29日,冬冬的生日是3月1日。

2. 3月:31-6+1=26(天)

4月:5天　共:26+5=31(天)

答:会议开了31天。

3. 7月:31-29+1=3(天)

8月:2天　共:3+2=5(天)

175÷5=35(米)

答:平均每天挖35米。

## 周测培优卷3

### 两位数乘两位数的计算方法及应用

一、1. 180　240　2. 783

3. 四　三　4. 540　864

5. 3　6. 43×34　1462

二、1. √　2. ×　3. ×　4. √　5. ×

三、1. B　2. C　3. B　4. B　5. C

四、1. 160　100　1200　1000　300　720

2. ×
$$\begin{array}{r} 21 \\ \times\ 34 \\ \hline 84 \\ 63 \\ \hline 714 \end{array}$$
×
$$\begin{array}{r} 34 \\ \times\ 26 \\ \hline 204 \\ 68 \\ \hline 884 \end{array}$$

3. 48×21=1008　72×69=4968

$$\begin{array}{r} 48 \\ \times\ 21 \\ \hline 48 \\ 96 \\ \hline 1008 \end{array}$$
$$\begin{array}{r} 72 \\ \times\ 69 \\ \hline 648 \\ 432 \\ \hline 4968 \end{array}$$

56×90=5040　81×36=2916

$$\begin{array}{r} 56 \\ \times\ 90 \\ \hline 5040 \end{array}$$
$$\begin{array}{r} 81 \\ \times\ 36 \\ \hline 486 \\ 243 \\ \hline 2916 \end{array}$$

五、1. 96×30=2880(只)

答:这只啄木鸟一个月能吃2880只害虫。

2. 38×12=456(人)　456-438=18(个)

答:有18个空座位。

3. (1)19×40=760(个)

答:明明40分钟能写760个字。

(2)1小时=60分钟　45×60=2700(个)

答:乐乐1小时能打2700个字。

4. (1)12×18=216(元)

答:买18根跳绳要花216元。

(2)29×32=928(元)　15×16=240(元)

928+240=1168(元)

答:一共要花1168元。

(3)(答案不唯一)

买2个皮球一共要花多少元?

15×2=30(元)

答:买2个皮球一共要花30元。

荣德基好卷



关注微信公众号"教辅资料站"获取更多学习资料

## 周测培优卷4

### 估算和连乘

一、1. 30　80　2400　2449

2. 减　乘

3. 1(答案不唯一,合理即可)

4. 286　5. <　>　<　=　<

二、1. ×　2. √　3. ×　4. √　5. ×

三、1. C　2. B　3. C　4. A

四、1.

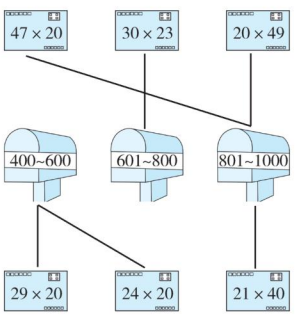


2. $18\times5\times25$　$618-140\div4$

$=90\times25$　$=618-35$

$=2250$　$=583$

$215+24\times26$　$15\times(84-25)$

$=215+624$　$=15\times59$

$=839$　$=885$

五、1. $60\times19\approx1200$(元)

答:大约需要1200元。

2. 方法一:$30\times8\times6=1440$(元)

答:一共可以卖1440元。

【点拨】先算8箱共有多少块,再算一共可以卖多少元。

方法二:$6\times30\times8=1440$(元)

答:一共可以卖1440元。

【点拨】先算1箱可以卖多少元,再算8箱一共可以卖多少元。

3. (1)$25\times3\times17=1275$(块)

答:王老师一共买了1275块糖果。

(2)$2\times35\times18=1260$(块)

$1260<1275$

答:这些糖果够分了。

4. $29\times2\times7=406$(本)

答:这批图书一共有406本。

## 周测培优卷5

### 辨认方向

一、1. 西　北　南　2. 北　南　西　东

3. 西北　4. 西南　东北　东南

二、1. ×　2. ×　3. ×　4. √　5. √

三、1. A　【点拨】黄昏时太阳在西面。

2. B　3. A

4. B　【点拨】小红面向东站立,可知小红的左面是北,她向左转后面向北。

5. B　【点拨】后面是北,面对太阳的那面就是南,中午太阳在南面。

6. C

四、

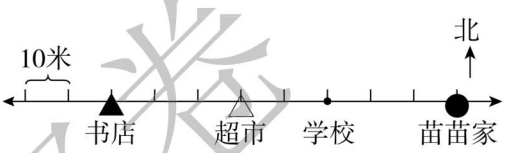


五、1. (1)东南　500　南　100

(2)西南　200　西　400

(3)东北　200　北　200

2. (1)小鸡从家出发先向西走30米到达医院,再向南走10米到达小狗家,最后和小狗一起向北走30米到达小猫家。

【点拨】从图中信息可知上面是北,并且每小段代表10米,所以根据“上北下南,左西右东”的规则来描述小鸡从家出发到达小狗家然后和小狗一起去小猫家的行走路线。

(2)小兔从家出发到小鸭家的路线:小兔从家出发先向南走20米到达商店,再向西走20米到达小猫家,接着向南走20米到达医院,最后向西走20米到达小鸭家。

$20\times4=80$(米)

小兔从家出发到小狗家的路线:小兔从家出发先向南走20米到达商店,再向西走20米到达小猫家,最后向南走30米到达小狗家。

宋德基好卷



关注微信公众号“教辅资料站”获取更多学习资料

$20\times2+30=70$(米)

$70<80$　$80-70=10$(米)

**答:**去小狗家的路程较近,近 10 米。

## 周测培优卷 6

### 毫米和千米的认识

一、1. 厘米　米　厘米　毫米　毫米

2. 5

3. 2000　30　20　5　60　6

4. 4　厘米　分米

二、1. ×　2. ×　3. √　4. ×　5. √

6. √

三、1. B　2. A　3. A　4. C

5. (1)A　(2)C

四、1.

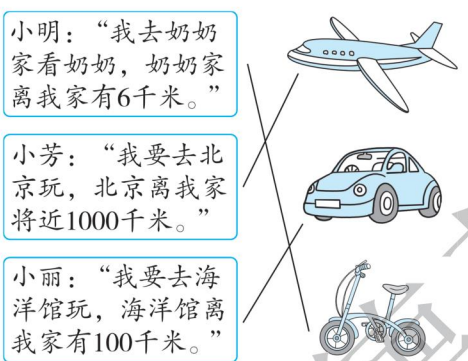


2. (40 千米)>(3600 米)>(3 千米)>(800 米)>(95 毫米)>(9 厘米)

五、1. $300\times13=3900$(米)　4 千米 = 4000 米

$3900<4000$

**答:**13 分钟不能到学校。

2. 下午 2 时 30 分 = 14 时 30 分

14 时 30 分 − 8 时 30 分 = 6 小时

$510\div6=85$(千米)

**答:**这辆客车平均每小时行驶 85 千米。

3. $15\times2=30$(千米)

$30\div(15-5)=3$(小时)

**答:**返回时骑了 3 小时。

【点拨】返回时和去时的路程一样长,返回时每小时行 $15-5=10$(千米)

4. (1)$100\div5+1=21$(个)

**答:**在 100 米的道路上需要 21 个小志愿者。

(2)$(21+5-1)\times5=125$(米)

**答:**第一个小志愿者和最后一个小志愿者之间的距离是 125 米。

## 周测培优卷 7

### 数据的收集和整理

一、1. 12　8　10　2. 晴天　雨天　3. 10

4. 4　5. 2　6. 略

二、1. 19　8　32　27　20

2. 106　3. 5

4. 略

三、1.

| 数量(本) | 5 及以下 | 6 ~ 10 | 11 ~ 15 | 16 及以上 |
|---|---|---|---|---|
| 男同学 | 丅 | 正 | 正 一 | 下 |
| 女同学 | | 正 | 正 丅 | 正 |

2. 25　33

3. 三(1)班男同学捐书本数在 11 ~ 15 范围的人数最多,有 6 人。

四、1. 0　6　6　5　1　3　5　5

2. 略

3. 1　9　11　10

4. 略

## 周测培优卷 8

### 认识小数和比较小数的大小

一、1. 1.56　0.07　3.40

2. 3.65　0.5　0.08　3.78

3. (1)十点一八　(2)零点零九七

(3)12.06　(4)130.58

4. 7.09　0.95　1　8　2　6　8　100.25　90.03

5. >　<　=　>　<　<　=

来德基试卷



关注微信公众号“教辅资料站”获取更多学习资料

二、1. × 2. × 3. √ 4. × 5. √

三、1. A 2. C 3. A 4. C 5. B 6. C

四、1.

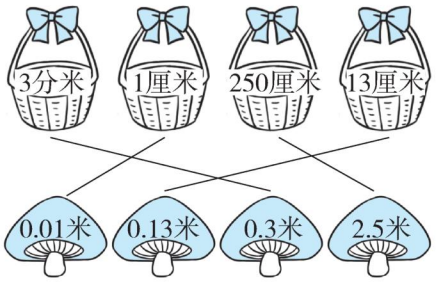


2. 4.32 > 4.23 > 3.24 > 2.43 > 2.34

3. 6.02 元 > 5.2 元 > 50 角 > 4.9 元 > 99 分

或 99 分 < 4.9 元 < 50 角 < 5.2 元 < 6.02 元

【点拨】单位不同，先统一单位，再进行比较。可以从大到小排列，也可以从小到大排列。

五、1. (1)东方 (2)叮叮

(3)



2. 8.8 秒 > 7.9 秒 > 6.7 秒，张飞是第一名，李刚是第二名，王强是第三名。

【点拨】用的时间越少，速度越快，成绩越好。

3. 2.19 2.91 1.29 1.92 9.21 9.12

1.29 < 1.92 < 2.19 < 2.91 < 9.12 < 9.21

## 周测培优卷 9

### 小数简单加减计算

一、1. 2.7 2. 3.8 0

3. (1)水杯 盐 (2)18.7 (3)6.9

4. 小数点 数位上

5. (1)0.8 1.2 (2)3.6 3.1

6. 8.5

【点拨】因为把 5.7 看成了 57，结果是 59.8，所以另一个加数是 59.8 − 57 = 2.8，再用 2.8 + 5.7 可得出正确结果。

二、1. A 2. C 3. B 4. A

5. B

【点拨】单位不同，先统一单位再计算。

三、1. × 5.7 × 60.5

$$\begin{array}{r} +\ 2 \\ \hline 7.7 \end{array} \qquad \begin{array}{r} -\ 3.7 \\ \hline 56.8 \end{array}$$

2. 11.2 43.2 4.3 19.8

四、1. 0.9 4 9.7 3.9 1.5 4.1

2. 11.6 + 4.8 = 16.4 2.2 + 12.8 = 15

$$\begin{array}{r} 11.6 \\ +\ 4.8 \\ \hline 16.4 \end{array} \qquad \begin{array}{r} 2.2 \\ +12.8 \\ \hline 15.0 \end{array}$$

26.2 − 1.9 = 24.3 9 − 7.6 = 1.4

$$\begin{array}{r} 26.2 \\ -\ 1.9 \\ \hline 24.3 \end{array} \qquad \begin{array}{r} 9.0 \\ -\ 7.6 \\ \hline 1.4 \end{array}$$

五、1. 8.6 − 0.6 = 8(元) 8 + 8.6 = 16.6(元)

答：李老师买一盒彩色粉笔和一盒白色粉笔共需 16.6 元。

2. (1)7 5 5 6 (2)1 9

(3)7.50 + 5.60 = 13.10(元)

20.00 − 13.10 = 6.90(元)

答：收银员找给了妈妈 6.90 元钱。

3. 1.2 + 0.3 = 1.5(米)

1.2 − 0.2 = 1(米)

答：妈妈的身高是 1.5 米；小文的身高是 1 米。

## 周测培优卷 10

### 面积和面积单位

一、1. (1)平方厘米 (2)平方分米

(3)平方米 (4)厘米

(5)平方分米 平方厘米

(6)平方厘米 平方分米

2. ③ 15 ① 9 ② ④

3. 300 7 430 705

4. 4 $m^2$ 150$dm^2$ 900$cm^2$ 100$cm^2$

【点拨】先统一单位，再按从大到小的顺序排列。



关注微信公众号“教辅资料站”获取更多学习资料

二、1. √ 2. × 3. × 4. × 5. ×

6. × 【点拨】两个大正方形所用的小正方形的面积不相等，所以两个大正方形的面积不相等。

三、1. B 2. C 3. C 4. B

四、1. 周长：12 厘米 10 厘米 12 厘米

14 厘米

面积：6 平方厘米 6 平方厘米 6 平方厘米 6 平方厘米

用 6 个边长为 1 厘米的小正方形拼成的图形，周长不一定相等，面积都相等。

2. （答案不唯一）

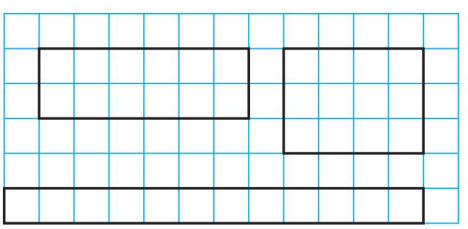

五、1. 50 厘米 = 5 分米 40 厘米 = 4 分米

5 × 4 = 20（平方分米）

答：宣传牌的面积是 20 平方分米。

2. 25 × 96 = 2400（平方分米）

2400 平方分米 = 24 平方米

答：小青家客厅的面积是 24 平方米。

3. （1）1 × 3 = 3（平方米）

3 平方米 = 300 平方分米

300 ÷ 1 = 300（块）

答：需要 300 块面积是 1 平方分米的方砖才能修补好。

【点拨】只需用损坏了的面积除以修补要用的方砖的面积即可。先统一单位再计算。

（2）4 × 300 = 1200（元）

答：一共需要 1200 元钱的方砖。

（3）一块面积是 1 平方分米的方砖，它的边长是 1 分米。

300 × 1 = 300（分米）

答：长是 300 分米。

## 周测培优卷 11

### 长方形和正方形的面积及铺地面

一、1. 192 2. 4

3. 64 【点拨】注意单位不一样要进行转化。

4. 81 5. 135 6. 64

二、1. × 2. × 3. × 4. × 5. ×

三、1. C 【点拨】先统一单位再计算，最后把单位进行转化。

2. B 3. C 4. C 5. C

四、1. 24 × 24 = 576（$m^2$） 28 × 15 = 420（$m^2$）

2. 640 ÷ 8 = 80（m）

五、1. （1）100 厘米 = 10 分米

10 × 10 = 100（平方分米）

答：这张正方形餐桌的面积是 100 平方分米。

（2）100 厘米 = 10 分米

10 厘米 = 1 分米

（10 + 1 + 1）×（10 + 1 + 1）

= 144（平方分米）

答：这块桌布的面积是 144 平方分米。

【点拨】除了上述方法，还可以先算出桌布的面积，再进行单位转化。

2. （1）6 × 6 = 36（平方米）

答：这个蓄水池的面积是 36 平方米。

（2）50 × 30 = 1500（平方米）

1500 − 36 = 1464（平方米）

答：这块菜地中可以种菜部分的面积是 1464 平方米。



关注微信公众号“教辅资料站”获取更多学习资料

3. 8 米 = 80 分米　80 ÷ 8 = 10(块)

4 米 = 40 分米　40 ÷ 8 = 5(块)

10 × 5 = 50(块)

答:一共需要 50 块这样的正方形地砖。

【点拨】客厅的长和宽与正方形地砖边长的单位不同,先统一单位,再计算。

## 周测培优卷 12

### 认识分数和比较分数的大小

一、1. 7　2. $\frac{3}{5}$　3　5　3. 4　$\frac{1}{4}$　四分之一

4. 4　$\frac{7}{10}$　5. (1)3　3　(2)小壮

6. $\frac{1}{6}$　$\frac{1}{8}$　$\frac{1}{13}$

7. $\frac{3}{5}$　$\frac{2}{5}$　$\frac{1}{5}$(答案不唯一)

二、1. ×　2. √　3. √　4. ×　5. ×

三、1. B　2. C　3. A　4. B　5. C

四、1. $\frac{2}{4}$　$\frac{2}{3}$　$\frac{1}{4}$

2. 涂色略　>　<　>　>

五、1. 西红柿:$\frac{2}{7}$　黄瓜:$\frac{3}{7}$

茄子:$1-(\frac{2}{7}+\frac{3}{7})=\frac{2}{7}$

答:种西红柿的地占这块地的$\frac{2}{7}$;种黄瓜的地占这块地的$\frac{3}{7}$,种茄子的地占这块地的$\frac{2}{7}$。

2. 玲玲:$\frac{1}{8}$　军军:$\frac{1}{10}$　$\frac{1}{8}>\frac{1}{10}$

答:玲玲平均每天看这本书的$\frac{1}{8}$,军军平均每天看这本书的$\frac{1}{10}$,玲玲看得快。

3. $\frac{1}{3}>\frac{1}{4}>\frac{1}{5}$

答:小青走得最快。

## 周测培优卷 13

### 简单分数加减法

一、1. 8　5　$\frac{5}{8}$　2. 4　3. 2

4. $\frac{6}{6}$　$\frac{5}{6}$　5. 2　2

二、1. ×　2. ×　3. ×　4. ×　5. √

三、1. C　2. A　3. B　4. A　5. A

四、1. (1)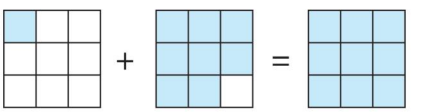 1

(2)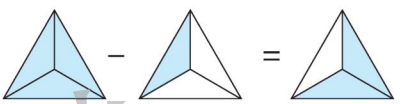 $\frac{2}{3}$

2. (1)$\frac{3}{5}+\frac{1}{5}=\frac{4}{5}$

(2)$\frac{5}{8}-\frac{1}{8}=\frac{4}{8}$

3. $\frac{3}{4}$　1　$\frac{1}{4}$　$\frac{2}{4}$　$\frac{2}{9}$　$\frac{5}{9}$　$\frac{6}{9}$　$\frac{2}{9}$

五、1. 涂色略

(1)$\frac{4}{8}+\frac{2}{8}=\frac{6}{8}$

答:涂色部分占这张纸条的$\frac{6}{8}$。

(2)$\frac{4}{8}-\frac{2}{8}=\frac{2}{8}$

答:涂红色的部分比涂绿色的部分多占这张纸条的$\frac{2}{8}$。

(3)$1-\frac{6}{8}=\frac{2}{8}$

答:没涂色的部分占这张纸条的$\frac{2}{8}$。

2. $\frac{5}{10}-\frac{1}{10}=\frac{4}{10}$(米)

$\frac{4}{10}+\frac{5}{10}=\frac{9}{10}$(米)

答:另一根绳子长$\frac{4}{10}$米,两根绳子一共长$\frac{9}{10}$米。

荣德基好卷



关注微信公众号"教辅资料站"获取更多学习资料

3. (1)$\frac{4}{9}>\frac{2}{9}>\frac{1}{9}$

答:丽丽用得最多,玲玲用得最少。

(2)$\frac{2}{9}+\frac{2}{9}=\frac{4}{9}$

答:聪聪和明明一共用了这条彩带的$\frac{4}{9}$。

(3)$\frac{2}{9}+\frac{2}{9}+\frac{1}{9}+\frac{4}{9}=\frac{9}{9}=1$

答:这条彩带用完了。

## 周测培优卷 14

### 探索乐园

一、1. 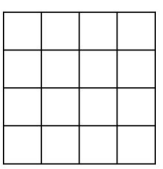

2. (1)9 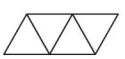

(2)16 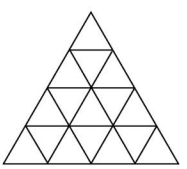

3. 司机　警察　教师

二、1. C　2. B　3. A　4. A

三、1. 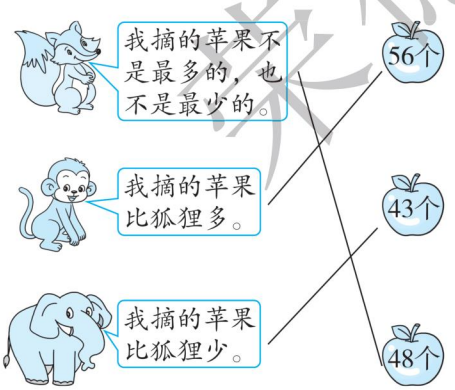


2. 从高到矮依次是:亮亮、丫丫、聪聪、红红。

四、1. 佳佳是班长,丽丽是学习委员,辉辉是劳动委员。

2. (1)1　2　3　4

6　11　16　21

(2)方法 1:6 +5 ×(5 −1) =26(根)

答:⑤号图形需要 26 根小棒。

【点拨】每相邻的两个六边形有一条公共边,所以每增加一个六边形,就增加 5 根小棒,所以,每组图形需要的小棒根数为[6 +(六边形的个数 −1) ×5]根。

方法 2:1 +5 ×5 =26(根)

答:⑤号图形需要 26 根小棒。

【点拨】每增加一个六边形就增加 5 根小棒,①号图形的小棒根数看作(1 +5)根,每组图形需要的小棒根数为[1 +5 ×六边形的个数]根。

3. 从前到后依次是:豆豆,笑笑,毛毛,乐乐。

4. 甲的职业是农民,乙的职业是医生,丙的职业是教师。

【点拨】由(1)可知甲不是医生;由(2)可知乙不是教师;再根据(3)和(4)可得出年龄从大到小的排列顺序:农民、医生、教师;最后再根据(1)和(2)可知甲是农民,乙是医生,丙是教师。

## 期末复习冲刺卷

### 专项能力提升卷 1　24 时计时法与年、月、日的认识

一、1. 6:30　10:00　12:00　13:30　下午 3:30　16:30　18:30　晚上 7:00　晚上 8:05　21:00

2. 三　四　3. 13

4. 8　5. 12　30

6. 2　4　7. 平　365　90

8. 24

二、1. √　2. ×　3. ×　4. ×　5. ×

三、1. B　2. C　3. A　4. B　5. C

四、1. 




关注微信公众号“教辅资料站”获取更多学习资料

2.

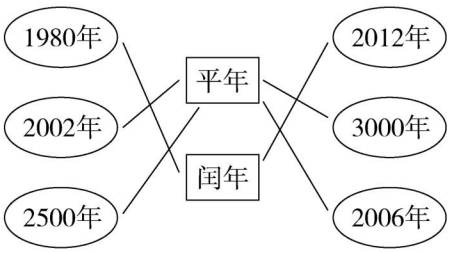


五、1. 9时30分+90分钟=11时

答:这列火车到达乙地的时间是11时。

【点拨】可以先进行计算,满60分再转化为1时;或者也可以先把90分钟转化为1小时30分钟,再进行计算,9时30分+1小时30分钟=11时。

2. (1)6　(2)7　28　5　31

(3)90÷5=18(日)　18−1=17(日)

18−2=16(日)　18+1=19(日)

18+2=20(日)

答:这5天的日期分别是16日、17日、18日、19日、20日。

3. (1)当天:24时−8时40分=15小时20分钟

第二天:12小时31分钟

15小时20分钟+12小时31分钟=27小时51分钟

答:这列火车运行了27小时51分钟。

【点拨】求不在同一天内经过的时间,分时间段,先计算出每天经过的时间,再相加。

(2)8时40分−5分钟=8时35分

8时35分−30分钟=8时5分

答:他最晚要在8时5分从家出发才不会误车。

【点拨】开车前5分钟停止检票,也就是8时40分−5分钟=8时35分之前到,8时35分−30分钟=8时5分就是他最晚从家出发的时间。

## 期末复习冲刺卷

### 专项能力提升卷2　两位数乘两位数的计算及应用

一、1. 6　3　2　2. 3

3. 6　四　3496　90　40　3600

4. 50　5. 2　28　10　140　12　168

6. 5　6　7. 5

二、1. √　2. ×　3. √　4. ×　5. √

三、1. B　2. C　3. B　4. C　5. B

四、1. 78×23=1794　　57×60=3420

$$\begin{array}{r} 78 \\ \times\ 23 \\ \hline 234 \\ 156 \\ \hline 1794 \end{array}$$

$$\begin{array}{r} 57 \\ \times\ 60 \\ \hline 3420 \end{array}$$

52×49=2548　　86×35=3010

$$\begin{array}{r} 52 \\ \times\ 49 \\ \hline 468 \\ 208 \\ \hline 2548 \end{array}$$

$$\begin{array}{r} 86 \\ \times\ 35 \\ \hline 430 \\ 258 \\ \hline 3010 \end{array}$$

2. 246÷6×15　　125+9×33

=41×15　　=125+297

=615　　=422

600−43×12　　17×(35+28)

=600−516　　=17×63

=84　　=1071

五、1. 538−26×14=174(棵)

答:今年比去年多植树174棵。

2. 86×5×3=1290(克)

答:一共可以减少碳排放1290克。

【点拨】先算彻底关闭5台电视机1小时减少碳排放多少克,再算彻底关闭5台电视机3小时一共减少碳排放多少克;或者也可以先算彻底关闭1台电视机3小时减少碳排放多少克,再算彻底关闭5台电视机3小时一共减少碳排放多少克。

3. 15×12+178=358(页)

答:这本故事书一共有358页。



关注微信公众号“教辅资料站”获取更多学习资料

4. $4\times3\times15=180$(粒)　$180=180$

答:一瓶这种药够一名患者连续服用15天。

【点拨】先算患者1天服用多少粒药,再算15天共服用多少粒,最后跟一瓶药的总粒数进行比较;也可以先算一瓶药能服用多少次,为$180\div4=45$(次),再算能服用多少天,为$45\div3=15$(天),最后跟15天进行比较。

5. 方案一:$20\times4+15\times8=200$(元)

方案二:$18\times(4+8)=216$(元)

$200<216$

答:选择方案一最划算。

## 期末复习冲刺卷

### 专项能力提升卷3　辨认方向与认识毫米和千米

一、1. 南　2. 6　西　3. 9　4. 4000　4

5. 米　毫米

6. 3000　60　50　900　6000　6　500　50　5

二、1. ×　2. √　3. √　4. ×　5. ×

6. √　7. √

三、1. C　2. A　3. C

4. C

【点拨】单位不同要统一单位。

5. C

四、1. 1千米>80分米>7米>800毫米>15厘米

2. (1)画图略　(2)画图略　东南

(3)南　北　(4)东南　东

五、1. 1米=100厘米

$100-40-52=8$(厘米)

8厘米=80毫米

答:还剩80毫米。

【点拨】先算出装饰衣服后还剩多少厘米丝带,再从中减去装饰裙子用去的,就是剩下的;或者也可以先算一共用去了多少厘米丝带,再用总长度减去用去的,就是剩下的。注意要统一单位。

2. $70\times4\div5=56$(千米)

答:这辆摩托车平均每小时行驶56千米。

3. $(1500-690)\div9=90$(米)

答:平均每天修90米。

4. $30\div6=5$(分米)　5分米=50厘米

$6-1=5$(次)

答:每段长50厘米,需要截5次。

5. $12-1=11$(个)　$60\times11=660$(米)

答:小敏家到学校有660米。

【点拨】12根电线杆之间有11个间隔,每个间隔(即相邻2根电线杆之间)是60米,所以从小敏家到学校有11个60米。

## 期末复习冲刺卷

### 专项能力提升卷4　小数和分数的初步认识

一、1. 十八点零六　26.40

2. 七分之四　4　5

3. $\frac{1}{10}$　$\frac{3}{10}$　4. 2.05　5. 24.06　6. 3.6

7. 432.1　1.234

8. >　>　=　=　>　<　>　=　<

二、1. ×　2. ×　3. √　4. ×　5. √

6. ×

三、1. B　2. B　3. A

4. C

【点拨】锯了4次就是把这根木头锯成了5段。

5. B

四、1. $\frac{3}{12}$　$\frac{4}{8}$　$\frac{2}{4}$　$\frac{2}{8}$

2. $\frac{1}{7}<\frac{2}{7}<\frac{2}{5}<\frac{3}{5}$

五、1. 1　$\frac{1}{8}$　$\frac{9}{10}$　4　10.3　13.8



荣德基好卷

关注微信公众号“教辅资料站”获取更多学习资料

2. 21.8 + 7.26 = 29.06　　10 − 5.8 = 4.2

$$\begin{array}{r} 21.8 \\ +\ 7.26 \\ \hline 29.06 \end{array} \qquad \begin{array}{r} 10.0 \\ -\ 5.8 \\ \hline 4.2 \end{array}$$

六、1. 3.8 + 4.2 = 8(米)

9.6 − 8 = 1.6(米)

答:还剩下 1.6 米。

2. (1)$\frac{2}{9}+\frac{3}{9}=\frac{5}{9}$

答:红气球和黄气球共占总数的$\frac{5}{9}$。

(2)$1-\frac{5}{9}=\frac{4}{9}$

答:蓝气球占总数的$\frac{4}{9}$。

3. (1)6.5 + 11.0 + 5.4 = 22.9(元)

22.9 > 20　22.9 − 20 = 2.9(元)

答:她拿出 20 元钱不够,应补 2.9 元钱。

(2)1 千克茄子比 1 千克西红柿贵多少元?

6.2 − 4.8 = 1.4(元)

答:1 千克茄子比 1 千克西红柿贵 1.4元。

(答案不唯一)

## 期末复习冲刺卷

### 专项能力提升卷 5　计算长方形和正方形的面积

一、1. 8　2. 2　2　6

3. 4 米　16 平方米

【点拨】题目中没有写单位,我们计算出结果后一定不要忘记写单位。

4. 100　50　5. 14　6　16　7

6. 8200　5　9　26

二、1. ×　2. ×　3. ×　4. ×　5. √

三、1. B　2. B　3. C　4. C　5. B

四、8 × 8 − 2 × 2 = 60(平方厘米)

12 × 7 − 6 × 3 = 66(平方厘米)

【点拨】可以用添补法,也可以用分割法来计算不规则图形的面积。

五、1. 15 × 5 × 3 = 225(棵)

答:这个小花园一共可以种 225 棵树。

2. 宽:(36 − 16) ÷ 2 = 10(米)

16 × 10 = 160(平方米)

答:这块菜地的面积是 160 平方米。

3. (1)3 × 3 = 9(平方分米)

500 × 9 = 4500(平方分米)

4500 平方分米 = 45 平方米

答:所铺地面的面积是 45 平方米。

(2)3 × 2 = 6(平方分米)

4500 ÷ 6 = 750(块)

答:需要 750 块。

(3)500 × 10 = 5000(元)

750 × 7 = 5250(元)

5250 > 5000　5250 − 5000 = 250(元)

答:选择①规格的地砖便宜,相差 250 元。

## 期末复习冲刺卷

### 专项能力提升卷 6　常考易错突破卷(一)

一、1. 四　千　2. 4　5　3. $\frac{3}{8}$　$\frac{5}{8}$

4. 西　5. 80.08　6. 17

7. 90　六

8. $\frac{4}{8}$　$\frac{2}{8}$　$\frac{1}{6}$　$\frac{4}{8}$　$\frac{6}{8}$　$\frac{5}{6}$

【点拨】分母表示图形平均分成的总份数,分子表示涂色部分所占的份数或未涂色部分所占的份数。据此数出总份数和涂色部分、未涂色部分所占的份数,即可解答。

9. <　=　>　>　=　=



荣德基好卷

关注微信公众号“教辅资料站”获取更多学习资料

二、1. √　2. ×　3. ×　4. ×　5. ×

三、1. C　2. A　3. B　4. B　5. C

四、$50\times50-30\times15=2050$(平方分米)

$24\times24\times2-12\times12\times2=864$(平方分米)

五、1. $180\div2-50=40$(厘米)

$50\times40=2000$(平方厘米)

2000 平方厘米 = 20 平方分米

**答:**这幅绣品的面积是 20 平方分米。

2. 11 时 30 分 − 9 时 30 分 = 2 小时

$(200-4)\div2=98$(千米)

**答:**这辆汽车平均每小时行驶 98 千米。

3. $40\times8\times4=1280$(套)

**答:**阳光小学的教室内一共有 1280 套桌椅。

4. $25.8-13.8=12$(千克)

$12\times2=24$(千克)

$25.8-24=1.8$(千克)

**答:**原来这筐苹果重 24 千克,筐重 1.8 千克。

5. $36\div4=9$(米)　9 米 = 90 分米

$90\div3=30$(块)

$30\times30=900$(块)

**答:**至少需要 900 块瓷砖。

【点拨】先统一单位,再计算。用边长是 3 分米的正方形瓷砖沿着大厅的一条边摆,每排摆 30 块,整个大厅的地面可以摆这样的 30 排,共 900 块。或者也可以分别算出大厅地面和正方形瓷砖的面积,大厅地面的面积 ÷ 一块正方形瓷砖的面积 = 至少需要瓷砖的块数。

## 期末复习冲刺卷

### 专项能力提升卷 7　常考易错突破卷(二)

一、1. 13

2. 七分之三　3　4

3. 147

【点拨】这个长方形的周长包括 8 个正方形的边长,所以 1 个正方形的边长是 $56\div8=7$(厘米),从而计算出长方形的面积。

4. 毫米　千米　平方分米　米

5. 2.09　1.2　6　3600　0.58　5　8

6. 51　200　7. 12.2

二、1. √　2. ×　3. ×　4. ×

三、1. B　2. C　3. B　4. C　5. B　6. A

四、1. $76\times48=3648$

$$\begin{array}{r} 7\ 6 \\ \times\ 4\ 8 \\ \hline 6\ 0\ 8 \\ 3\ 0\ 4\ \ \\ \hline 3\ 6\ 4\ 8 \end{array}$$

$20-9.8=10.2$

$$\begin{array}{r} 2\ 0.0 \\ -\ \ 9.8 \\ \hline 1\ 0.2 \end{array}$$

2. $342-216\div6=342-36=306$

$25\times(281-197)=25\times84=2100$

五、1. (1)25　20

(2)①李磊　②结果不会发生变化。

2. $8.8+9.7=18.5$(元)

$20-18.5=1.5$(元)

**答:**应找回 1.5 元。

3. (1)上午 8 时 30 分 = 8 时 30 分

晚上 10 时 30 分 = 22 时 30 分

22 时 30 分 − 8 时 30 分 = 14 小时

**答:**王师傅路上用了 14 小时。

【点拨】把两个时刻先转化为用 24 时计时法表示,再计算。

(2)$90\times14=1260$(千米)

**答:**上海到北京的距离约是 1260 千米。

荣德基好卷



关注微信公众号“教辅资料站”获取更多学习资料