主　　编：荣德基
本册主编：李丽苹



三年级 数学（下）

（BJ 版）



吉林教育出版社

目录

同步跟踪检测卷

大卷 单元卷 · 模块卷 · 仿真卷

单元检测卷（8套）

第一单元跟踪检测卷 …… 1
第二单元跟踪检测卷 …… 5
第三、四单元跟踪检测卷 …… 9
第五单元跟踪检测卷 …… 13
期中跟踪检测卷 …… 17
第六单元跟踪检测卷 …… 21
第七单元跟踪检测卷 …… 25
第八、九、十单元跟踪检测卷 …… 29

小卷 周测卷 · 专项卷 · 题型卷

周测培优卷（12套）

◆认识年、月、日和区分平年、闰年 …… 01
◆两位数乘两位数的计算 …… 03
◆吨的认识及吨与千克之间的换算 …… 05
◆用两步计算解决实际问题 …… 07
◆长方形和正方形的面积和面积单位 …… 09
长方形和正方形的面积的综合运用 …… 11
◆分数的意义及分数大小比较 …… 13
同分母分数加减法 …… 15
◆小数的认识及一位小数加减法的计算 …… 17
◆方向的辨认和应用 …… 19
◆用统计表分段整理数据 …… 21
◆比较及合理安排时间 …… 23

期末复习冲刺卷

模块过关卷（2套）

数与代数 统计 …… 33
图形与方向 …… 37

仿真模拟卷（3套）

仿真模拟卷(一) …… 41
仿真模拟卷(二) …… 45
仿真模拟卷(三) …… 49
参考答案及点拨 …… 53

专项提升卷（4套）

两位数乘两位数的笔算、估算及实际应用 …… 25
分数和小数的综合应用 …… 27
面积的单位、计算及应用 …… 29
单位换算和方向的实际应用 …… 31

题型突破卷（5套）

填空题 …… 33
选择题 …… 35
计算题 …… 37
图形题 …… 39
应用题 …… 41
参考答案及点拨 …… 43

荣德基
好卷
全面测评　环环相扣有抓手
专项突破　重难易错不失分
微信公众号
教辅资料站
关注微信公众号“教辅资料站”获取更多学习资料

姓名 学号 班级 学校

密 封 线

豆点提示：请不要在密封线内答题哦！

第六单元 跟踪检测卷

分数的初步认识

时间：70 分钟　满分：100 分 +10 分

题号	一	二	三	四	五	六	七	附加题	总分
得分									

一、我会填。（每空 1 分，共 19 分）

1. $\frac{5}{9}$是（　　）个$\frac{1}{9}$，$\frac{7}{8}$是（　　）个$\frac{1}{8}$。

2. 8 个$\frac{1}{10}$是（　　），5 个$\frac{1}{7}$是（　　）。

3. 9 毫米是 10 毫米的$\left(\frac{\quad}{\quad}\right)$，3 米是 10 米的$\left(\frac{\quad}{\quad}\right)$。

4. $\frac{6}{7}$是 6 个（　　），1 里面有 8 个$\left(\frac{\quad}{\quad}\right)$。

5. 右面剪掉的花的朵数是这些花的朵数的$\left(\frac{\quad}{\quad}\right)$。

6. $\frac{3}{8}$读作（　　）。

7. 3 厘米 = $\left(\frac{\quad}{\quad}\right)$分米。

8. （　　）个$\frac{1}{7}$是$\frac{(\quad)}{7}$。1 里面有（　　）个$\frac{1}{9}$。

9. 比$\frac{1}{6}$大的分数有$\frac{1}{(\quad)}$、$\frac{1}{(\quad)}$、$\frac{1}{(\quad)}$、$\frac{1}{(\quad)}$。

10. 把一根绳子首尾对折两次，每份是这根绳子的（　　）。

二、我会判。（对的画“√”，错的画“×”）（每空 2 分，共 16 分）

1. 用下列分数表示阴影部分对吗？



$\frac{1}{2}$（　　）　$\frac{3}{6}$（　　）　$\frac{2}{8}$（　　）　$\frac{5}{5}$（　　）

2. 一堆苹果有 25 个，把它平均分成 5 份，每份是这堆苹果的$\frac{1}{5}$。（　　）

3. 因为 8 > 7，所以$\frac{1}{8} > \frac{1}{7}$。（　　）

4. 把一块月饼分成四份，每份是这块月饼的$\frac{1}{4}$。（　　）

5. 无法比较 1 与$\frac{6}{6}$的大小。（　　）

三、我会选。（将正确答案的字母填在括号里）（每题 2 分，共 10 分）

1. 图（　　）中阴影部分的面积占整个图形面积的$\frac{1}{4}$。

A. 　B. 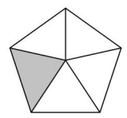　C. 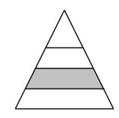

2. 下面的分数中，最小的是（　　）。

A. $\frac{1}{2}$　　B. $\frac{1}{4}$　　C. $\frac{3}{4}$

3. 的一半，再一半，结果是（　　）。

A. 　B. 　C. 

4. 下列分数按照从小到大的顺序排列正确的是（　　）。

A. $\frac{4}{10} < \frac{7}{10} < 1$　　B. $\frac{7}{10} < \frac{4}{10} < 1$　　C. $1 < \frac{4}{10} < \frac{7}{10}$

5. 一根绳子剪去 1 米，还剩 9 米，剪去的部分占这根绳子的（　　），剩下的部分占这根绳子的（　　）。

A. $\frac{1}{9}$　　B. $\frac{9}{10}$　　C. $\frac{1}{10}$

四、直接写出得数。（每题 1 分，共 9 分）

$\frac{1}{3}+\frac{2}{3}=$　　$\frac{4}{8}+\frac{3}{8}=$　　$\frac{5}{6}-\frac{2}{6}=$

$\frac{2}{9}+\frac{4}{9}=$　　$\frac{7}{10}-\frac{4}{10}=$　　$1-\frac{2}{7}=$

$\frac{3}{8}+\frac{1}{8}+\frac{2}{8}=$　　$1-\frac{5}{12}-\frac{2}{12}=$　　$\frac{4}{10}+\frac{5}{10}-\frac{2}{10}=$

五、在◯里填上“>”“<”或“=”。（每空 1 分，共 10 分）

$\frac{6}{10}\bigcirc\frac{3}{10}$　　$\frac{1}{11}\bigcirc\frac{1}{15}$　　$1\bigcirc\frac{9}{9}$　　$\frac{1}{6}\bigcirc\frac{1}{3}\bigcirc\frac{2}{3}$

$1\bigcirc\frac{4}{8}+\frac{3}{8}$　　$\frac{10}{10}-1\bigcirc\frac{1}{10}$　　$1-\frac{2}{3}\bigcirc1-\frac{1}{3}$　　$\frac{1}{8}\bigcirc\frac{1}{4}\bigcirc\frac{3}{4}$

荣德基 荣誉出品 微信公众号 教辅资料站
关注微信公众号“教辅资料站”获取更多学习资料

六、动手实践，操作应用。（每题 6 分，共 12 分）

1. 数一数。

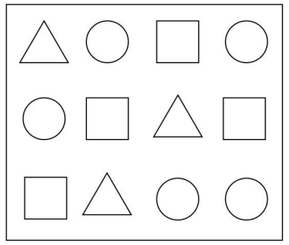

△有（　　）个，占图形总数的（　　）；

□有（　　）个，占图形总数的（　　）；

○有（　　）个，占图形总数的（　　）。

2. 在下面的三个同样大的图形上分一分，涂一涂，分别表示出它的$\frac{1}{16}$、$\frac{1}{8}$和$\frac{3}{8}$，再比较它们的大小。



（　　）<（　　）<（　　）

七、解决问题。（每题 6 分，共 24 分）

1. 一个西瓜平均切成 8 块。爸爸吃了这个西瓜的$\frac{3}{8}$，妈妈吃了这个西瓜的$\frac{2}{8}$，小云吃了这个西瓜的$\frac{1}{8}$。

（1）他们一共吃了这个西瓜的几分之几？

（2）这个西瓜还剩下几分之几？

2. 两天一共铺了这条路的几分之几？今天比昨天多铺了这条路的几分之几？



3. 猜猜看，哪张纸条长一些？

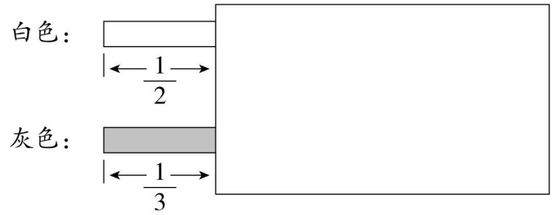

4. 三（1）班女生占全班人数的$\frac{2}{5}$，女生比男生少占全班人数的几分之几？

附加题：（10 分）

1. 如下图，请你估计一下，阴影部分是这个图形的（　　）。（2 分）

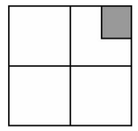

2. 在下图中填上合适的分数来表示每个小图形的面积是大正方形面积的几分之一。（8 分）

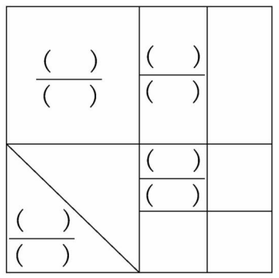

荣德基 品质教辅 微信公众号 教辅资料站
关注微信公众号“教辅资料站”获取更多学习资料

自己说说　老师点评　家长点评

密　封　线

姓名 学号 班级 学校

密 封 线

豆点提示：请不要在密封线内答题哦！



第七单元 跟踪检测卷

小数的初步认识

时间：70 分钟　满分：100 分 +10 分

题号	一	二	三	四	五	六	七	附加题	总分
得分									

一、我会填。（每空 1 分，共 15 分）

1. 中国的青岛海湾大桥长度为三十六点四八千米。横线上的数写作(　　)。

2. 一个西瓜，吃了它的$\frac{3}{10}$，可以用小数（　　）来表示，剩下它的$\frac{7}{10}$，可以用小数（　　）来表示。

3. 0.6 里面有（　　）个 0.1。

4. 4 个 1 和 7 个 0.1 组成的数是（　　）。

5. 将 1.6 的小数点去掉，得到的新数比原来的数多（　　）。

6. 填上合适的小数：1.2 ＜（　　）＜（　　）＜（　　）＜ 1.8

7. 按每一组数排列的规律，接着往下写。

（1）0.1，0.4，0.7，1，（　　），（　　），（　　）。

（2）7.2，6.5，5.8，5.1，（　　），（　　），（　　）。

二、我会判。（对的画“√”，错的画“×”）（每题 2 分，共 10 分）

1. 阴影部分用小数表示是 0.2。（　　）

2. 比 0.8 大的小数有无数个。（　　）

3. 亮亮身高是 1.6 米，也就是 1 米 6 厘米。（　　）

4. 小强有 6 元 5 角，小明有 6.5 元，他们的钱数一样多。（　　）

5. 比 0.3 小的小数只有 2 个，是 0.1 和 0.2。（　　）

三、我会选。（将正确答案的字母填在括号里）（每题 2 分，共 12 分）

1. 小数与 1 相比，（　　）。

A. 小数大　　B. 1 大　　C. 大小不一定

2. 云云在读一个小数时，把小数点丢了，结果读成了三千零三，原来的小数一个零都不读出来。原来的小数是（　　）。

A. 3.003　　B. 30.03　　C. 300.3

3. 从 1.8 里面减去（　　）个 0.3，结果是 0。

A. 5　　B. 6　　C. 7

4. 下面各数中，与 0.8 最接近的数是（　　）。

A. 1　　B. 0.6　　C. $\frac{7}{10}$

5. 运动会百米赛跑中，小明的成绩是 15.6 秒，小刚的成绩是 16.1 秒，小军的成绩比小刚好，比小明差，小军的成绩可能是（　　）秒。

A. 14.5　　B. 17.5　　C. 16

6. 一个数比 2.7 多 7.6，这个数是（　　）。

A. 4.9　　B. 9.3　　C. 10.3

四、我会算。（共 24 分）

1. 直接写出得数。（每题 1 分，共 9 分）

3.2 +0.5 =	0.9 −0.4 =	1.8 −0.6 =
2.8 −2.8 =	7.5 −4.5 =	0.7 +0.3 =
5.6 +3.4 =	9.8 −8 =	5.4 +4.6 =

2. 用竖式计算下面各题。（每题 3 分，共 9 分）

3.4 +6.6 =	5.7 −0.9 =	8 −4.8 =

3. 填表。（每空 1 分，共 6 分）

被减数	1.2	6.6	3.7	7.1		
减数	0.7	0.8			7.9	8.4
差			2.8	2.9	1.8	6.6

五、在◯里填上“＞”“＜”或“＝”。（每空 1 分，共 9 分）

7.2 吨 ◯ 7.1 吨	0.8 元 ◯ 8.0 元	12.3 千米 ◯ 13.2 千米
5.3 +4.7 ◯ 10	4.8 +0.2 ◯ 4.6	9.2 −4.3 ◯ 5
5.2 +0.4 ◯ 4.2 +0.8	8.6 −3.2 ◯ 6.4 −1.7	4.3 −3.4 ◯ 6.5 −5.6

荣德基 荣誉出品 微信公众号 教辅资料站
关注微信公众号“教辅资料站”获取更多学习资料

六、按要求做题。（共 8 分）

1. 在括号里填上小数。（每空 1 分，共 5 分）

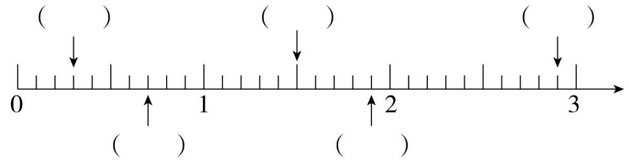

2. 转换成几元几角。（每题 1 分，共 3 分）



32.6 元



15.8 元



27.4 元

（　　）元（　　）角　（　　）元（　　）角　（　　）元（　　）角

七、解决问题。（2 题 4 分，其余每题 6 分，共 22 分）

1.

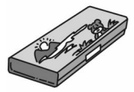

3.5元



7.8元



18.4元

（1）琦琦有 20 元钱，买了一本《新华字典》，还剩多少钱？

（2）买一个文具盒和一个地球仪，一共要花多少钱？

2. 把 4.3 米长的竹竿竖直插入水池中，测量水池蓄水的深度。竹竿入泥的部分长 0.3米，露出水面的部分长 1.4 米。水池蓄水的深度是多少米？

3. （1）长颈鹿现在能上桥吗？



（2）哪三只动物能同时上桥？

4. 小明爸爸买了一桶油，连桶共重 3.4 千克，用去一半油后，连桶共重 1.9 千克。原来油重多少千克？桶重多少千克？

附加题：（10 分）

萌萌在计算（　　）+2.4 时，把 2.4 的小数点丢了，结果算成了 39.8。正确的结果是多少？

荣德基好卷 品质教辅 微信公众号 教辅资料站
关注微信公众号“教辅资料站”获取更多学习资料

自己说说　密　老师点评　封　线　家长点评

姓名 学号 班级 学校

密 封 线

豆点提示：请不要在密封线内答题哦！

第八、九、十单元 跟踪检测卷

认识方向　整理数据　数学百花园

时间：70 分钟　满分：100 分 +10 分

题号	一	二	三	四	五	六	附加题	总分
得分								

一、我会填。（1~6 题每空 1 分，7~8 题每空 2 分，共 33 分）

1. 把钟面平放，将数 12 正对着北方，那么数 6 对着（　　）方，数（　　）对着东方，数（　　）对着西方。

2. 黄昏，当你面对太阳时，你的后面是（　　），左面是（　　），右面是(　　)。

3. 我们通常说的四面八方指的是（　　）、（　　）、（　　）、（　　）、（　　）、（　　）、（　　）、（　　）。

4. 一个橡胶球重 20 克，一个球拍重（　　）克。

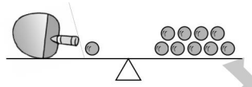

5. 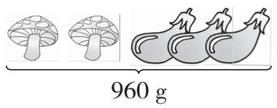

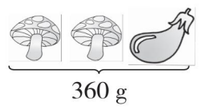

 =（　　）g　　 =（　　）g

6. 辨认方向。

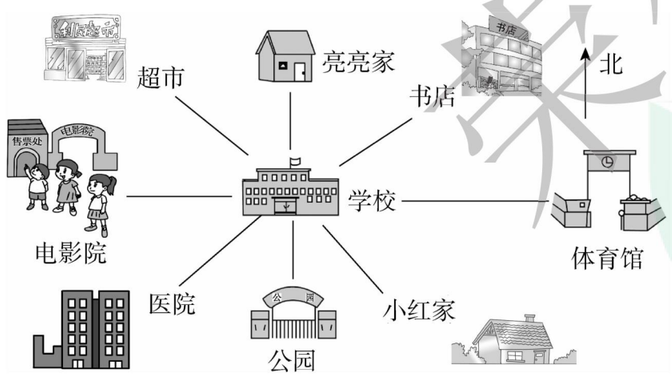

（1）电影院在学校的（　　）方向；体育馆在学校的（　　）方向。

（2）学校的东北方向是（　　）；学校的西北方向是（　　）。

（3）学校在超市的（　　）方向；学校在小红家的（　　）方向。

（4）（　　）在小红家的东北方向；（　　）在学校的东南方向。

7. 雯雯、丽丽、强强三个同学同时到办公室找同一个老师讲自己的解题思路，雯雯讲需要 5 分钟，丽丽讲需要 3 分钟，强强讲需要 2 分钟。要想使三个同学等候的时间总和最少，应该按（　　）→（　　）→（　　）的顺序进行。

8. 小敏要为妈妈冲一壶咖啡。烧开水需要 5 分钟，洗杯子需要 2 分钟，把咖啡倒入杯子需要 1 分钟，开水冲咖啡需要 1 分钟，搅拌需要 1 分钟，小敏至少需要用（　　）分钟能冲好这壶咖啡。

二、我会选。（将正确答案的字母填在括号里）（每题 2 分，共 10 分）

1. 淘淘站在操场上，面向东南，他的背后是（　　）方向。

A. 东北　　B. 西北　　C. 南

2. □的东面是○，☆在□的西北方向，☆在○的（　　）方向。

A. 东北　　B. 西北　　C. 东南

3. 商店和学校在广场东南方的同一条直线上，商店离广场 500 米，学校离广场 200 米，那么学校离商店（　　）米。

A. 300　　B. 500　　C. 700

4. 1 个西瓜重 5 千克，8 个桃子重 2 千克，1 个西瓜的质量等于（　　）个桃子的质量。

A. 2　　B. 15　　C. 20

5. 烤面包时，第一面要烤 2 分钟，第二面只要烤 1 分钟，即烤一片面包需要 3 分钟。小丽用架子烤面包，架子上一次只能放两片面包，她每天早上吃 3 片面包，至少需要烤（　　）分钟。

A. 5　　B. 9　　C. 18

三、我会算。（每题 6 分，共 12 分）

1. 

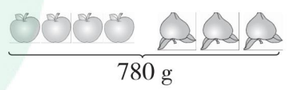

1 个苹果和 1 个桃子各重多少克？

2. 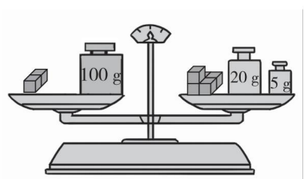

1 个重多少克？

荣德基 微信公众号 教辅资料站
关注微信公众号“教辅资料站”获取更多学习资料

四、数据统计与整理。（1 题 8 分，2 题 10 分，共 18 分）

三年级（1）班同学民主选举班长，在候选人王亮、赵敏、张盼、李峰 4 人中选 1 人。投票结果如下：

王亮：正正丅

赵敏：正一

张盼：正正正一

李峰：正丅

1. 请把投票结果记录在下面的统计表中。

三年级（1）班班长候选人得票情况统计表

候选人	王亮	赵敏	张盼	李峰
得票数				

2. 回答提出的问题。

（1）数据统计时，用的是（　　）的方法。

（2）三年级（1）班有（　　）人参加投票。

（3）（　　）的得票数最多。

（4）（　　）的得票数最少。

（5）根据统计结果，（　　）应该当选为班长。

五、请你根据下面的叙述将各比赛场馆的名称填入适当的位置。

（每空 2 分，共 10 分）

田径赛场在会场中心的正北方向；足球赛场在会场中心的西北方向；帆船赛场的东北方向是田径赛场；会场中心和田径赛场都在篮球赛场的正北方向；乒乓球赛场在田径赛场的东南方向。

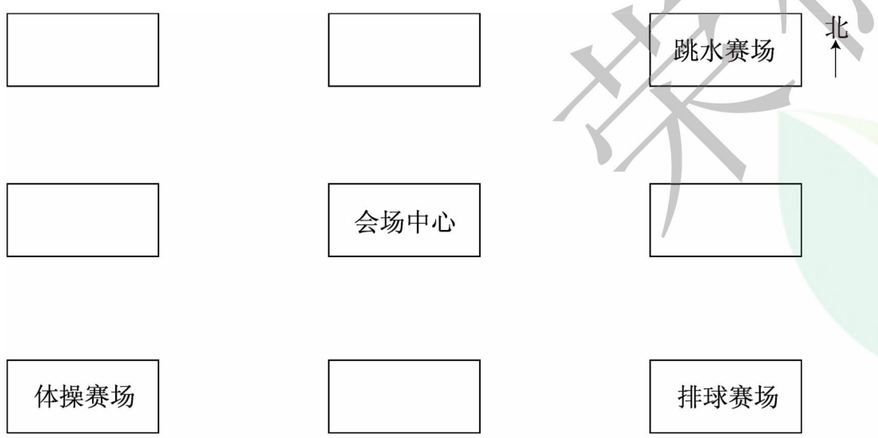

六、解决问题。（1 题 8 分，2 题 9 分，共 17 分）

1. 星期日，豆豆的妈妈要做如下几件事，怎样安排做事的顺序才能在最短时间内完成？请你在下表中填出安排做事的顺序。

要做的事	大约所用时间	次序
刷碗整理厨房	20 分钟	
打扫客厅	15 分钟	
用自动洗衣机洗被罩	1 小时	
手洗豆豆的衣服	20 分钟	
把豆豆的衣服放入自动洗衣机中漂洗甩干	30 分钟	

妈妈做完这几件事至少要用多长时间？

2. 一个杯子多少元钱？

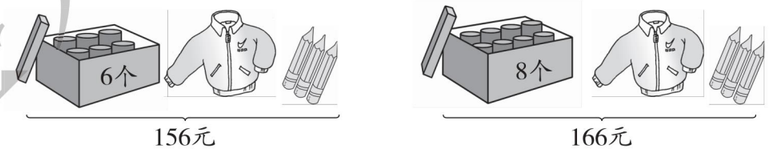

附加题：（10 分）

张老师购买体育用品，如果买 4 个足球和 5 个篮球要花 330 元，买 4 个足球和 8 个篮球要花 420 元，那么足球和篮球的单价各是多少元？

荣德基 品质教辅 微信公众号 教辅资料站
关注微信公众号“教辅资料站”获取更多学习资料

自己说说

老师点评

家长点评

密 封 线



期末总复习 模块过关卷(一)

数与代数　统计

时间：70 分钟　满分：100 分 +10 分

题号	一	二	三	四	五	六	七	附加题	总分
得分									

姓名 学号 班级 学校

密 封 线

豆点提示：请不要在密封线内答题哦！

一、我会填。(10 题 2 分，其余每空 1 分，共 24 分)

1. 2020 年奥运会在东京举行，这一年有（　　）天，其中有（　　）个大月，（　　）个小月，第一季度有（　　）天。
2. 计算 25×40，先用（　　）乘（　　），再在积的末尾添上（　　）个 0，积是（　　）。
3. 两位数乘两位数，积可能是（　　）位数，也可能是（　　）位数。
4. $\frac{1}{10}$米 =（　　）分米 =（　　）厘米

   4.84 元 =（　　）元（　　）角（　　）分
5. 一辆坦克重约 12（　　），一头大象重约 5（　　）。
6. 一批水果共 3 吨，卖了 2 吨 600 千克，还剩下（　　）千克。
7. 每支 \（　　）元　　每支 |（　　）元

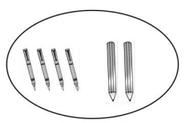

共38元



共40元

8. $125\times$☆，要使这个算式的积的末尾有两个 0，☆最小应该是（　　）。
9. 小明招待客人，拿茶叶 1 分钟，烧水 20 分钟，洗茶壶 3 分钟，沏茶 1 分钟，小明最少用（　　）分钟可以让客人喝上茶水。
10. 2019 年 4 月 1 日是星期一，那么这一年的 5 月 1 日是星期（　　）。

二、我会判。(对的画“√”，错的画“×”)(每题 1 分，共 5 分)

1. 3 吨的$\frac{1}{5}$和 1 吨的$\frac{3}{5}$是相等的。（　　）
2. 两个数相乘的积一定大于这两个数相加的和。（　　）
3. 所有的小数都比 1 小。（　　）
4. $39\times41\approx40\times40=1600$（　　）
5. 因为 $7>5$，所以$\frac{1}{7}>\frac{1}{5}$。（　　）

三、我会选。(将正确答案的字母填在括号里)(每题 2 分，共 12 分)

1. 下列年份中，是平年的是（　　）。

   A. 1976 年　　B. 1992 年　　C. 1400 年
2. 下列物体质量不适合用吨作单位的是（　　）。

   A. 货车载重量　　B. 大白鲨的体重　　C. 人的体重
3. 下面各图形中的阴影部分可用$\frac{1}{4}$表示的是（　　）。

   A. 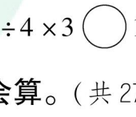　　B. 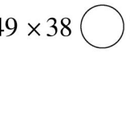　　C. 
4. 下面各图形中的阴影部分可用 0.2 表示的是（　　）。

   A. 　　B. 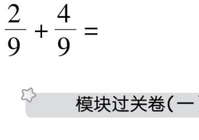　　C. 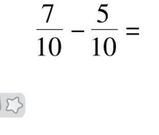
5. 一个因数不变，另一个因数乘 10，则原来的积（　　）。

   A. 不变　　B. 除以 10　　C. 乘 10
6. 在$\frac{1}{2}$，$\frac{2}{3}$，$\frac{2}{5}$中，最大的分数是（　　）。

   A. $\frac{1}{2}$　　B. $\frac{2}{3}$　　C. $\frac{2}{5}$

四、在◯里填上“>”“<”或“=”。(每题 1 分，共 10 分)

2.05 元◯2 元 5 角　3.07 吨◯4.1 吨　10.50◯10.05　9 米 8 厘米◯9.08 米

$\frac{1}{8}+\frac{5}{8}$◯$1-\frac{1}{8}$　　9×70◯7×90　　$58\times4\times5$◯58×20

$120\div4\times3$◯$120\div3\times4$　　49×38◯39×48　　$1-0.7$◯$1-0.07$

五、我会算。(共 27 分)

1. 算一算，填一填。(每题 1 分，共 6 分)

$1-\frac{4}{8}=$　　$\frac{2}{9}+\frac{4}{9}=$　　$\frac{7}{10}-\frac{5}{10}=$

荣德基 荣誉出品 微信公众号 教辅资料站
关注微信公众号“教辅资料站”获取更多学习资料

$\frac{7}{9}-\frac{1}{9}=$　　$\frac{5}{6}-(\quad)=\frac{1}{6}$　　$\frac{2}{6}+\frac{(\quad)}{6}=1$

2. 用竖式计算。（每题 2 分，共 12 分）

65 × 25 =　　28 × 70 =　　49 × 37 =

4.9 + 10.1 =　　5.7 − 2.8 =　　28 + 5.6 =

3. 脱式计算。（每题 3 分，共 9 分）

516 ÷ 6 × 23　　44 ×(26 + 39)　　24 × 36 − 118

六、数据统计与整理。（每空 1 分，共 7 分）

三年级（1）班同学去参加冬令营，在活动之前征求了同学们的意见，把同学们最喜欢的一项活动记录在下表中。

项目	男生	女生
滑雪	正正丅	正
滑冰	正正	正丅
赏冰雕	丅	一

1. 请把统计结果记录在下面的统计表中。

三年级（1）班同学最喜欢的活动项目统计表

项目	滑雪	滑冰	赏冰雕
人数			

2. 回答提出的问题。

（1）数据统计时，用的是（　　）的方法。

（2）最喜欢（　　）的人数最多，最喜欢（　　）的人数最少。

（3）最喜欢滑雪的男生比喜欢滑冰的男生多（　　）人。

七、解决问题。（每题 5 分，共 15 分）

1. 小红写了一篇 1000 字的作文，要抄写在每页 20 行，每行 15 字的作文纸上，3 页纸够吗？

2. 现有 480 个茶杯，如果按 6 个茶杯装一盒，4 盒装一箱，共可以装多少箱？

3.

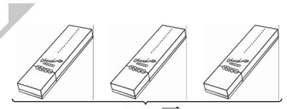

买 15 盒巧克力需要多少元？

附加题：（10 分）

李芳在做两位数乘两位数的乘法时，错把第二个因数 34 个位上的数字 4 看成了 9，结果比正确的积多了 55。正确的积是多少？

荣德基 品质教辅 微信公众号 教辅资料站
关注微信公众号“教辅资料站”获取更多学习资料

自己说说　老师点评　家长点评　密　封　线

姓名 学号 班级 学校

密 封 线

豆点提示：请不要在密封线内答题哦！



期末总复习 模块过关卷(二)

图形与方向

时间：70 分钟　满分：100 分 +10 分

题号	一	二	三	四	五	六	七	八	九	附加题	总分
得分											

一、我会填。（每空 1 分，共 16 分）

1. 早上起来，面向太阳的一面是（　　）方，背对太阳的一面是（　　）方。
2. 磁铁若制成棒状或针状并悬挂起来，会很自然地指向地球的（　　）和（　　）。
3. 学校在小月家的北方，小月家在学校的（　　）方。书店在小月家的东北方，小月家在书店的（　　）方。
4. 边长为（　　）的正方形，面积是 1 平方厘米；边长为 1 米的正方形，面积是（　　）。
5. 在括号里填上合适的单位名称。
   （1）信封的面积约是 240（　　）。
   （2）单人床的面积约是 2（　　）。
   （3）贝贝身高约 14（　　），体重约 35（　　）。
   （4）一块手绢的面积约是 4（　　）。
6. 一个正方形的周长是 20 cm，它的面积是（　　）。
7. 丽丽的手工纸是一个长方形，长 3 分米，宽 2 分米，周长是（　　）分米。将这张手工纸剪成 1 平方分米的正方形，能剪（　　）个。

二、看图填一填。（每空 1 分，共 10 分）

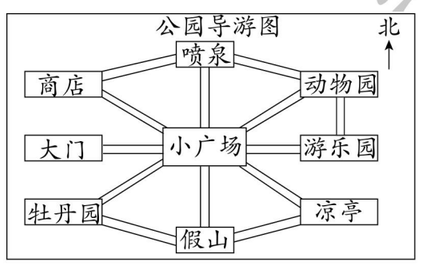

1. 大门的南面是（　　），小广场在牡丹园的（　　）方。
2. 动物园在小广场的（　　）方，牡丹园在小广场的（　　）方。
3. 从大门进来，先向（　　）走，来到小广场，再从小广场向（　　）走，可来到游乐园。从游乐园向（　　）走，来到动物园，从动物园向（　　）走，就可看到喷泉。
4. 从小广场向东南走，来到（　　），从凉亭向（　　）走，可来到假山。

三、我会选。（将正确答案的字母填在括号里）（每题 2 分，共 10 分）

1. 下面不是面积单位的是（　　）。
   A. 平方分米　　B. 平方米　　C. 千米
2. 公园在广场的东北方，那么广场就在公园的（　　）。
   A. 西南方　　B. 东南方　　C. 西北方　　D. 东北方
3. 一根铁丝围成了一个长 16 cm、宽 8 cm 的长方形，如果把它改围成一个正方形，这个正方形的面积是（　　）。
   A. 64 cm^2　　B. 144 cm^2　　C. 36 cm^2
4. 已知长方形的长是 6 cm，宽是 3 cm，它们各增加 2 cm 后，面积增加（　　）cm^2。
   A. 22　　B. 18　　C. 4
5. 下面几个图形的面积相比，结果是（　　）。

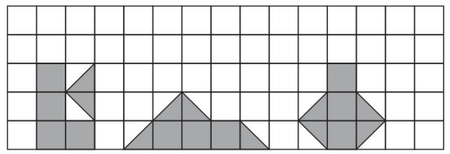

a 图形　　*b* 图形　　*c* 图形

A. *a* 图形的面积大　　B. *b* 图形的面积大　　C. *c* 图形的面积大　　D. 一样大

四、下图中小方格的边长是 1 厘米，请写出每个图形的面积。（每空 2 分，共 6 分）

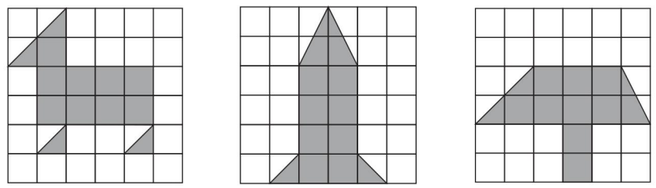

（　　）　（　　）　（　　）

五、填一填，写一写。（每空 1 分，共 8 分）

1. “4”在“1”的（　　）面，“1”在“5”的（　　）面。
2. 在“1”的北面写上“2”，在“1”的东北面写上“3”。
3. 在“4”的北面写上“6”，在“4”的东南面写上“7”。
4. 在“7”的西面写上“8”，在“7”的东北面写上“9”。

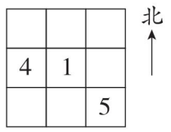

荣德基 荣誉出品 微信公众号 教辅资料站
关注微信公众号“教辅资料站”获取更多学习资料

六、图形计算。（1 题 6 分，2 题 8 分，3 题 6 分，共 20 分）

1. 计算下面图形的面积。

（1）

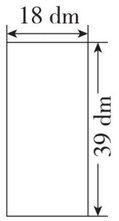

（2）

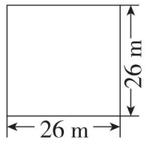

2. 计算下面图形中阴影部分的面积。

（1）

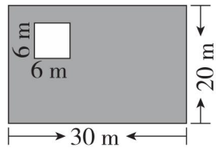

（2）

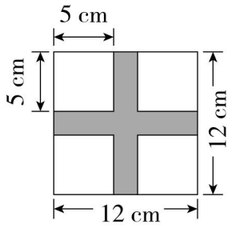

3. 下面的图形都是用边长 1 厘米的小正方形拼成的，请你写出每个图形的周长和面积。

（1）

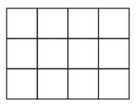

（2）

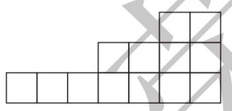

七、按要求画一画，每个小方格的面积是 1 平方厘米。（每题 3 分，共 9 分）

1. 正方形水池的面积是（　　）平方厘米。

2. 在水池的西面画一个面积是 12 平方厘米的长方形。

3. 在水池的东面画一个周长是 12 厘米的正方形。

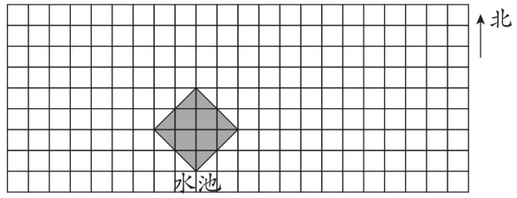

八、观察北海公园的琼岛地图，并填空。（每空 1 分，共 7 分）

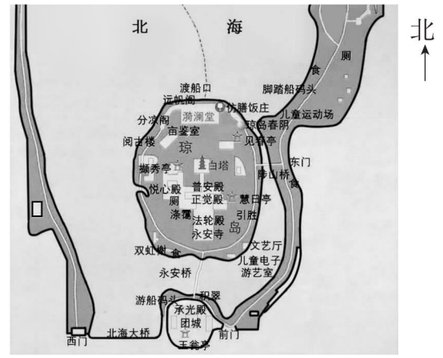

1. 脚踏船码头在白塔的（　　）方向。

2. 双虹榭在白塔的（　　）方向。

3. 阅古楼在永安寺的（　　）方向。

4. 见春亭在（　　）的（　　）方向。

5. （　　）、（　　）在白塔的南面。

九、解决问题。（每题 7 分，共 14 分）

1. 一个长方形操场，长是 70 米，宽是 50 米，扩建后长增加了 25 米，宽增加了 15 米，长方形操场的面积增加了多少平方米？

2. 贝贝家卫生间的地面是一个长 3 米、宽 2 米的长方形，如果要给地面铺上方砖，怎样选择方砖，费用比较便宜？



附加题：（10 分）

一张长方形的纸，长是 28 厘米，宽是 16 厘米，先剪下一个最大的正方形，然后从剩下的长方形纸中再剪下一个最大的正方形。这时剩下部分的面积是多少平方厘米？

荣德基 品质教辅 微信公众号 教辅资料站
关注微信公众号“教辅资料站”获取更多学习资料

自己说说
老师点评
家长点评
密 封 线

姓名 学号 班级 学校

密 封 线

豆点提示：请不要在密封线内答题哦！

期末总复习

仿真模拟卷（一）

时间：70 分钟　满分：100 分 +10 分

题号	一	二	三	四	五	六	七	八	九	十	附加题	总分
得分												

一、直接写出得数。（每题 1 分，共 12 分）

$30\times5=$　　$4.2+1.7=$　　$\frac{3}{4}-\frac{1}{4}=$　　$26\times10=$

$6.4-2.3=$　　$\frac{2}{7}+\frac{3}{7}=$　　$40\times25=$　　$7.2-0.5=$

$\frac{7}{8}-\frac{5}{8}=$　　$80\times20=$　　$5.8+4.2=$　　$1-\frac{1}{10}=$

二、填空。（1~5 题每空 1 分，6~8 题每空 2 分，共 14 分）

1. （　　）$+\frac{1}{5}=\frac{3}{5}$　　$7.6-$（　　）$=2.8$

2. 6 平方米 =（　　）平方分米　　3 吨 50 千克 =（　　）千克

3. 2019 年二月份有（　　）天，$\frac{7}{8}$里面有（　　）个$\frac{1}{8}$。

4. 41×69 的积大约是（　　）。

5. 双人床床面的面积大约是 4（　　）。

6. 有规律的一列数：0.2，0.4，0.6，（　　），1。

7. 第十四届北京国际汽车展览会于 2016 年 4 月 25 日开幕，5 月 4 日闭幕，历时（　　）天。

8. 一块长 70 米，宽 40 米的长方形休闲场地，中间是 2 米宽的“十字形”甬路，甬路的面积是（　　）平方米。

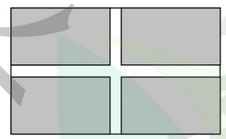

三、选择。（把正确答案的字母填在括号里）（每题 2 分，共 6 分）

1. 如图，在 24×13 的竖式中，箭头所指的这一步表示的是（　　）的和。

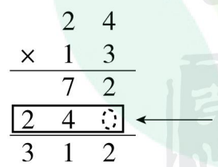

$$\begin{array}{r} 24 \\ \times\ 13 \\ \hline 72 \\ 24\square \\ \hline 312 \end{array}$$

A. 1 个 24　　B. 10 个 24　　C. 3 个 24

2. 用长 100 米的篱笆围一块长方形或正方形菜地，面积最大是（　　）平方米。

A. 200　　B. 625　　C. 1250

3. 学校组织 320 名同学参加社会实践活动，要想知道租 8 辆相同的大客车够不够同学坐，还需要知道（　　）。

A. 共有多少人参加　　B. 有几辆大客车　　C. 一辆大客车能坐多少人

四、在◯里填上“>”“<”或“=”。（每空 1 分，共 8 分）

$1\bigcirc\frac{5}{6}$　　$\frac{1}{8}\bigcirc\frac{1}{4}$　　$\frac{5}{7}\bigcirc\frac{1}{7}\bigcirc\frac{1}{10}$

$6.2\bigcirc0.9$　　$\frac{4}{10}\bigcirc0.4$　　$2.8\bigcirc2.9\bigcirc5.2$

五、用竖式计算下面各题。（每题 3 分，共 9 分）

$46\times25=$　　$77\times81=$　　$39\times60=$

六、用脱式计算下面各题。（每题 3 分，共 9 分）

$348\div6+270$　　$(145-69)\times35$　　$279\div9\times23$

七、看图填空。（1 题 8 分，2 题 1 分，共 9 分）

1. 根据北京园博园导游词，填出景区位置。

导游词

北京园博园位于丰台区永定河西岸，总占地面积 513 公顷。永定塔是北京园博园标志性建筑，它的北面是莲石湖，西北面是牡丹园，东南面是中国园林博物馆，西南面是儿童活动场。北京园博园是一个集园林艺术、文化景观、生态休闲、科普教育于一体的大型公益性城市公园。

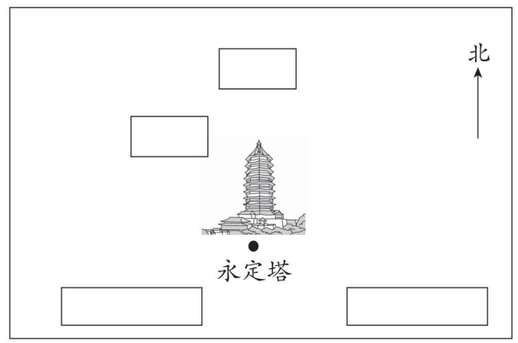

荣德基 荣誉出品 微信公众号 教辅资料站
关注微信公众号“教辅资料站”获取更多学习资料

2．一个苹果重（　　）克。

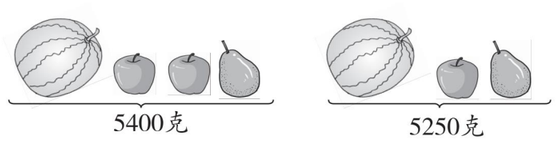

八、观察与操作。（1~2 题每空 1 分，3 题 2 分，共 4 分）

观察图 1 和图 2（下面每个小方格代表 1 平方厘米）

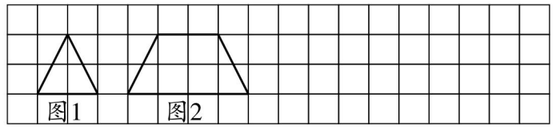

1．图 1 的面积是（　　）平方厘米。　2．图 2 的面积是（　　）平方厘米。

3．将图 1 剪成完全一样的两部分和图 2 拼成一个长方形，把拼成的长方形画在上面的方格里。

九、整理数据，并回答问题。（1 题每空 1 分，2~3 题每题 2 分，共 7 分）

为了解同学们的课业负担，刘老师调查了三（1）班全体同学的睡眠时间，如下表：

学号	时间	学号	时间	学号	时间
（1）	8 时	（9）	9 时	（17）	8 时 30 分
（2）	9 时	（10）	8 时	（18）	9 时
（3）	9 时	（11）	9 时 30 分	（19）	10 时
（4）	8 时 20 分	（12）	8 时	（20）	9 时
（5）	10 时	（13）	10 时 30 分	（21）	8 时 30 分
（6）	8 时	（14）	8 时 30 分	（22）	9 时
（7）	9 时 30 分	（15）	9 时 10 分	（23）	8 时 30 分
（8）	9 时	（16）	10 时	（24）	9 时

1．把下面的统计表填写完整。

睡眠时间	8 时 ~8 时 30 分	9 时 ~9 时 30 分	10 时 ~10 时 30 分
人数			

2．三（1）班同学一天的睡眠时间少于 10 时的有（　　）人。

3．如果小学生的科学睡眠时间应达到 10 时，你对调查结果有什么想法？

十、解决问题。（1~2 题每题 6 分，3 题 10 分，共 22 分）

1．“五一”小长假，丁丁一家自驾去张家口游览。去时用了 3 小时，平均每小时行 60 千米；回来时用了 2 小时，那么平均每小时行多少千米？

2．一瓶药 90 片，每天早、中、晚各吃 2 片，这瓶药够吃两周吗？

3．强强家要装修新房啦！请你帮助他解决下面的两个问题。

（1）买地砖。

东鹏地砖每块 85 元，每箱有 6 块。强强家要买 12 箱，一共要花多少元？

（2）贴墙砖。

强强家的厨房墙面是长方形的，长 6 米，宽 3 米。如果用边长 3 分米的正方形墙砖粘贴，要用多少块？

附加题：（10 分）

建华小区一共要安装 189 根管道，照管道工人这样的速度计算，还需要安装多少小时？



荣德基 好卷 品质教辅 微信公众号 教辅资料站
关注微信公众号“教辅资料站”获取更多学习资料
自己说说 老师点评 家长点评 密 封 线

姓名 学号 班级 学校

密 封 线

豆点提示：请不要在密封线内答题哦！

期末总复习

仿真模拟卷（二）

时间：70 分钟　满分：100 分 +10 分

题号	一	二	三	四	五	六	七	八	九	附加题	总分
得分											

一、直接写出得数。（每题 1 分，共 12 分）

$30\times80=$	$2000\times9=$	$150\times40=$	$32\times10=$
$3.2-1.2=$	$4.1+0.9=$	$1-0.2=$	$2.8+1.4=$
$\frac{2}{7}-\frac{1}{7}=$	$\frac{1}{8}+\frac{7}{8}=$	$1-\frac{1}{9}=$	$\frac{5}{6}-\frac{1}{6}=$

二、填空。（每空 1 分，共 15 分）

1. 1985 年 9 月 10 日是我国第一个教师节，2019 年 9 月 10 日是第（　　）个教师节。

2. 在◯里填上“＞”“＜”或“＝”。

4 吨 ◯ 400 千克　　7 吨 ◯ 7007 千克　　$7.2+0.8$ ◯ 8

1 年 ◯ 350 天　　$\frac{2}{4}+\frac{1}{4}$ ◯ 1　　30×14 ◯ 320

3. 估算 58×32 时，可以把 58 看成（　　），32 看成（　　），然后把两个数相乘，结果大约是（　　）。

4. 小力和小红打扫学校操场，小力打扫了整个操场的$\frac{3}{10}$，小红打扫了整个操场的$\frac{4}{10}$，他们一共打扫了整个操场的（——），小红比小力多打扫了整个操场的（——）。

5. 计算机室的一个墙面是长 25 米、宽 4 米的长方形，在这个墙面上贴墙纸，墙纸面积是（　　），如果在墙纸四周钉上木条，木条的长是（　　）。

6. 小强给客人沏茶，烧开水要 12 分钟，洗茶杯要 2 分钟，买茶叶要 8 分钟，浸泡茶叶要 1 分钟，为使客人能早点喝上茶，按你认为最合理的安排，（　　）分钟就能沏好茶。

三、选择。（把正确答案的字母填在括号里）（每题 2 分，共 8 分）

1. 一头大象约重 6（　　）。

A. 克　　B. 千克　　C. 吨

2. 我的生日是 6 月 5 日，今天是 5 月 20 日，距我的生日还有（　　）天。

A. 17　　B. 16　　C. 13

3. 如右图所示，长方形菜地被分成了两部分，这两部分的（　　）。

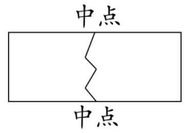

A. 周长和面积都相等　　B. 周长和面积都不相等

C. 周长相等，面积不相等

4. 小于 1 的一位小数有（　　）个。

A. 10　　B. 9　　C. 8

四、用竖式计算下面各题。（每题 4 分，共 12 分）

$32\times13=$　　$68\times47=$　　$7.2-1.3=$

五、用脱式计算下面各题。（每题 4 分，共 12 分）

$35\times20-35$　　$576\div6\times26$　　$(156-117)\times46$

六、按要求找位置。（每空 1 分，共 6 分）



走进大门，中间是操场，操场的西北角是体育馆，西边是图书馆，东边是教学楼，东南角是办公楼，西南角是学生公寓，食堂在操场的东北角。根据所叙述的内容，把这些建筑物的序号填在正确的位置上。

a. 教学楼　*b*. 图书馆　*c*. 体育馆　*d*. 学生公寓　*e*. 办公楼　*f*. 食堂

七、动手操作。（1 题 3 分，2 题 2 分，共 5 分）

1. 先数一数，再涂一涂。（下图中每个小方格代表 1 平方厘米）

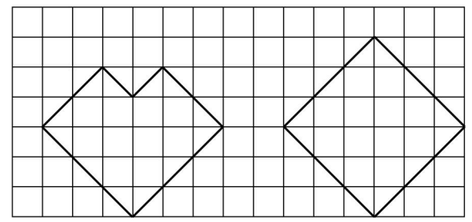

荣德基 荣誉出品 微信公众号 教辅资料站
关注微信公众号“教辅资料站”获取更多学习资料

（1）数一数，甲图的面积是（　　）平方厘米，乙图的面积是（　　）平方厘米。

（2）用阴影涂出甲图的面积。

2. 画一画，比一比。



$\frac{1}{2}$ ◯ $\frac{1}{4}$

八、整理数据，并回答问题。（1 题 4 分，2~3 题每空 2 分，共 8 分）

某地 2018 年六月份空气质量（污染指数）情况

1 日	88	9 日	58	17 日	120	25 日	134
2 日	62	10 日	90	18 日	87	26 日	173
3 日	75	11 日	69	19 日	58	27 日	47
4 日	98	12 日	63	20 日	71	28 日	50
5 日	111	13 日	100	21 日	100	29 日	84
6 日	88	14 日	83	22 日	59	30 日	121
7 日	37	15 日	149	23 日	64		
8 日	56	16 日	167	24 日	97		

1. 根据某地 2018 年六月份空气质量情况，污染指数 50 及以下为优；51 ~ 100 为良；101 ~ 150 为轻度污染；151 ~ 200 为中度污染；201 ~ 300 为重度污染；300 以上为严重污染，把下面的统计表填写完整。

某地 2018 年六月份空气质量情况统计表

等级	优	良	轻度污染	中度污染	重度污染	严重污染
天数					0	0

2. 某地 2018 年六月份空气质量共监测了（　　）天。

3. 这个月，空气质量等级是（　　）的天数最多。

九、解决问题。（1~2 题每题 5 分，3~4 题每题 6 分，共 22 分）

1. 买 15 箱这样的矿泉水共需多少元？



每瓶3元

2. 三（2）班一共有 8 个小组，每个小组有 6 人。他们在植树节时一共植树 144 棵。平均每人植树多少棵？

3. 教室的一面长方形墙长 9 米，宽 3 米，窗户占 12 平方米。如果要粉刷这面墙，那么粉刷的实际面积是多少？如果给窗户安玻璃，每平方米玻璃 13 元，一共要花多少元？

4.



24.5元　　6.2元　　3.4元

（1）小明只有 10 元钱，能买哪两种商品？需要多少钱？

（2）根据所给信息，请你再提一个数学问题并解答。

附加题：（10 分）

小强在计算小数减法时，把减数 4.2 看成了 42，结果得 52.6，正确的结果应是多少？

荣德基 品质教辅 微信公众号 教辅资料站
关注微信公众号“教辅资料站”获取更多学习资料

自己说说
老师点评
家长点评
密 封 线

姓名 学号 班级 学校

密 封 线



期末总复习

仿真模拟卷（三）

时间：70 分钟　满分：100 分 +10 分

题号	一	二	三	四	五	六	七	八	九	附加题	总分
得分											

一、直接写出得数。（每题 1 分，共 12 分）

$40 \times 3 =$　　$5.3 + 2.6 =$　　$\frac{5}{8} - \frac{3}{8} =$

$35 \times 10 =$　　$8.7 - 3.4 =$　　$\frac{1}{6} + \frac{5}{6} =$

$125 \times 8 =$　　$6.4 - 0.9 =$　　$\frac{4}{7} - \frac{1}{7} =$

$60 \times 20 =$　　$7.2 + 2.8 =$　　$1 - \frac{2}{9} =$

二、填空。（1~7 题每空 1 分，8~10 题每空 2 分，共 18 分）

1. $\frac{3}{10} +$（　　）$= \frac{7}{10}$　　（　　）$- 1.5 = 2.7$

2. 400 平方厘米 =（　　）平方分米

3. 1 袋水泥重 50 千克，（　　）袋这样的水泥重 1 吨。

4. 一年有（　　）个大月。

5. 小芳用面积为 1 平方分米的正方形纸板量桌面的面积，沿着长边一行摆了 12 张，沿着宽边一列摆了 5 张。桌面的面积是（　　）平方分米。

6. 1 角是 1 元的$\left(\frac{\quad}{\quad}\right)$。

7. 一块边长 10 米的正方形草坪，如果横边增加 1 米，竖边减少 1 米，面积是（　　）平方米。

8. 按规律填数：0.5，0.8，1.1，（　　），（　　），2。

9. 把一张正方形纸上下对折三次，展开后其中的一份是这张正方形纸的$\left(\frac{\quad}{\quad}\right)$。

10. 4 个 1 和 3 个 0.1 组成的数是（　　），再添上（　　）个 0.1 就是 5。

三、选择。（把正确答案的字母填在括号里）（每题 2 分，共 10 分）

1. 下列年份中，（　　）不是闰年。

A. 1900 年　　B. 2008 年　　C. 2016 年

2. 下图中涂色部分可以用 0.3 表示的是（　　）。

A. 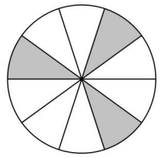　　B. 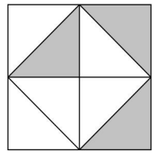　　C. 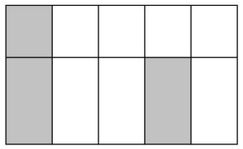

3. 甲、乙、丙三人分别拿着大、中、小号暖瓶排队打开水，只有一个接水口，甲灌满大号暖瓶需要 4 分钟，乙灌满中号暖瓶需要 3 分钟，丙灌满小号暖瓶需要 2 分钟。三人等候时间的总和最少是（　　）分钟。

A. 5　　B. 7　　C. 9

4. 在右面的七巧板中，选项（　　）中的图形正好能拼成一个正方形。

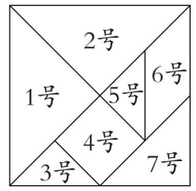

A. 3 号和 4 号　　B. 3 号和 5 号

C. 3 号和 6 号

5. 小狗把信送到小猪家，可以先向北走，再向（　　）走；也可以先向东走，再向（　　）走。

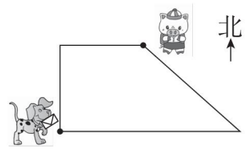

A. 西北、北　　B. 东、南

C. 东、西北

四、在◯里填上“>”“<”或“=”。（每空 1 分，共 8 分）

$31 \times 50 \bigcirc 30 \times 50$　　$69 \times 78 \bigcirc 5600$　　$\frac{1}{3} \bigcirc \frac{1}{2}$　　$\frac{6}{7} \bigcirc 1$

$\frac{3}{8} \bigcirc \frac{1}{8} \bigcirc \frac{1}{9}$　　$3.2 \bigcirc 2.8$　　$\frac{1}{10} \bigcirc 0.1$

五、用竖式计算下面各题。（每题 3 分，共 9 分）

$35 \times 42 =$　　$67 \times 30 =$　　$3.8 + 9.4 =$

六、用脱式计算下面各题。（每题 4 分，共 12 分）

$276 \div 6 \times 14$　　$45 \times 36 + 120$　　$(205 - 58) \div 3$



豆点提示：请不要在密封线内答题哦！

荣德基 荣誉出品 微信公众号 教辅资料站
关注微信公众号“教辅资料站”获取更多学习资料

七、观察与操作。(1~2 题每空 1 分，3 题 2 分，共 4 分)

观察图 1 和图 2（下面每个小方格代表 1 平方厘米）

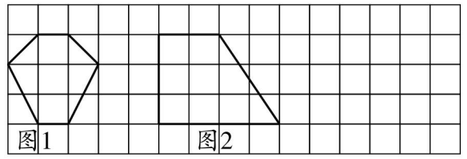

1. 图 1 的面积是（　　）平方厘米。
2. 图 2 的面积是（　　）平方厘米。
3. 将图 2 增加一个三角形，形成一个长方形，画在上面的方格中。

八、整理数据，并回答问题。(1~2 题每空 1 分，3 题 3 分，共 8 分)

“幸福家园”小区物业人员李阿姨对部分家庭四月份收快递情况做了调查，如下表：

家庭	快递件数	家庭	快递件数
1 号	18	9 号	9
2 号	26	10 号	15
3 号	28	11 号	21
4 号	30	12 号	35
5 号	48	13 号	45
6 号	21	14 号	24
7 号	8	15 号	23
8 号	25	16 号	17

1. 把下面的统计表填完整。

快递量分布	10 件或 10 件以下	11 ~ 20 件	21 ~ 30 件	30 件以上
家庭个数				

2. 观察统计表，每个家庭收快递件数在（　　）的最多。
3. 你对调查结果有什么想法？

九、解决问题。(1~2 题每题 4 分，3 题 5 分，4 题 6 分，共 19 分)

1. 学校买来 8 箱 A4 纸，每箱 20 包，每包 500 张，一共买来多少张？
2. 空调维修小组 5 人 7 天维修了 280 台空调，平均每人每天维修多少台？
3. 下面是军军家第二季度用水情况统计表。

月份 / 类别	四	五	六
用水量/吨	9	7	10
金额/元	36		40

（1）把表格补充完整。

（2）根据第二季度的收费标准，如果军军家第三季度交水费 120 元，你知道他家用了多少吨水吗？算一算。

4. 看图列式计算，再根据线段图，自己试着编一个数学题。

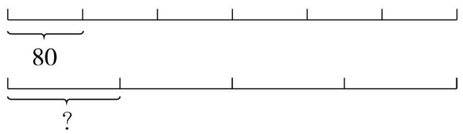

列式计算：_____

数学题：

_____

_____

_____

附加题：(10 分)

在一块边长是 8 米的正方形草坪周围铺上宽为 1 米的彩石路（如下图所示）。彩石路的面积是多少平方米？

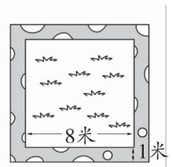

荣德基 品质教辅 微信公众号 教辅资料站
关注微信公众号“教辅资料站”获取更多学习资料

自己说说

老师点评

家长点评

密 封 线

参考答案及点拨（大卷）

第一单元跟踪检测卷

年、月、日

一、1. 12　1 月、3 月、5 月、7 月、8 月、10 月、12 月

2. 70　3. 29　366　52　2　4. 2　29

5. 7　8　6. 4　3　闰　400

7. 2020 年　2024 年　2028 年

8. 5　9. 24　13　2　2　10. 182　184

11. 17［点拨］①数数法：从 4 日数到 20 日，一共有 17 天。②计算法：20 − 4 + 1 = 17（天）。

12. 日

［点拨］①列表法。

一	二	三	四	五	六	日
						18
19	20	21	22	23	24	25
26	27	28	1	2	3	4
5	6	7	8	9	10	11
12	13	14	15	16	17	18

②计算法：2018 年是平年，二月有 28 天。从 2 月 18 日~3 月 17 日是 28 天，28 ÷ 7 = 4（周），因为 2 月 18 日是星期日，所以 3 月 17 日是星期六，那么 3 月 18 日就是星期日。

13. 二

［点拨］①列表法。

一	二	三	四	五	六	日
					1	2
3	4	5	6	7	8	9
10	11	12	13	14	15	16
17	18	19	20	21	22	23
24	25	26	27	28	29	30
31	1					

②计算法：12 月有 31 天，31 ÷ 7 = 4（周）……3（天），因为 12 月 1 日是星期六，所以 12 月 31 日是星期一，那么 2019 年 1 月 1 日就是星期二。

二、1. ×［点拨］9 月只有 30 天。

2. ×［点拨］1900 年是平年。

3. ×［点拨］2020 年是闰年，这一年有 366 天。

4. √

5. ×［点拨］7 月有 31 天，建军节的前一天是 7 月 31 日。

三、1. B　2. B　3. A　4. A　5. C　6. B

四、

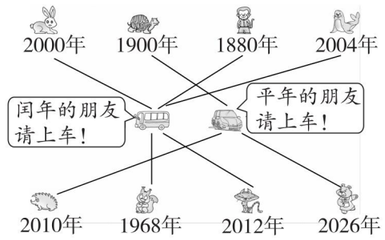

五、3　1　2　28　10　1　3　31　11　30

六、1. 18 − 10 + 1 = 9（天）

答：共展出了 9 天。

2. 7 月：31 − 13 + 1 = 19（天）　8 月：31 天

19 + 31 = 50（天）

答：她的假期共有 50 天。

3. 8 ×（31 + 31 + 30）= 736（个）

答：她在第三季度共写了 736 个大字。

［点拨］第三季度有（31 + 31 + 30）天。

4. 6 月：30 − 25 + 1 = 6（天）　7 月：2 天

6 + 2 = 8（天）　2472 ÷ 8 = 309（套）

答：平均每天生产服装 309 套。

5. 答：爸爸不能去申请保修。

6.

2019年3月

日	一	二	三	四	五	六
					1	2
3	4	5	6	7	8	9
10	11	12	13	14	15	16
17	18	19	20	21	22	23
24	25	26	27	28	29	30
31						

2019年4月

日	一	二	三	四	五	六
	1	2	3	4	5	6
7	8	9	10	11	12	13
14	15	16	17	18	19	20
21	22	23	24	25	26	27
28	29	30				

（1）4　15　（2）5　4　（3）5

附加题：2020 年是闰年，二月有 29 天，则 366 ÷ 7 = 52（周）……2（天）。

答：2020 年 3 月 1 日是星期日。

［点拨］2020 年是闰年，2019 年 3 月 1 日~2020 年 2 月 29 日一共有 366 天。366 ÷ 7 = 52（周）……2（天），因为 2019 年 3 月 1 日是星期五，所以 2020 年 2 月 29 日是星期六，那么 2020 年 3 月 1 日是星期日。

第二单元跟踪检测卷

乘　法

一、略。［点拨］圈出（10 × 12）个点。

二、1. 三　四　2. 990　3. 2　3　4. 1200

5. 576　6. 400

7. 24 × 35　52 × 43

［点拨］乘积最小的算式：首先确定十位上的数字，可以得到两个算式，24 × 35 和 25 × 34，通过计算，24 × 35 = 840、25 × 34 = 850，840 < 850，所以乘积最小的算式是 24 × 35。

乘积最大的算式：也是先确定十位上的数字，可以得到两个算式，52 × 43 和 53 × 42，通过计算，52 × 43 = 2236、53 × 42 = 2226，2236 > 2226，所以乘积最大的算式是 52 × 43。

三、1. ×［点拨］得到的积相当于原来的积乘 100。

2. ×　3. ×　4. √　5. √

四、1. B　2. B　3. B　4. A

五、1. 120　180　1200　473　5600　2800　1000　3000　4000　9000　0　8000

2. 1200　2400　2800　2500　2100　6300

3. 76 × 23 = 1748　24 × 25 = 600　66 × 50 = 3300

```
  7 6        2 4        6 6
×   2 3    × 2 5    ×   5 0
  2 2 8      1 2 0      3 3 0 0
1 5 2        4 8
1 7 4 8      6 0 0
```

4. <　<　=　<　<　=

5.
```
  26 × 54 − 816          72 ×（510 − 475）
= 1404 − 816             = 72 × 35
= 588                    = 2520
  35 × 14 + 200
= 490 + 200
= 690
```

六、1. 24 × 42 = 1008（元）

答：共花 1008 元。

2. 95 × 20 = 1900（元）

答：买足球需要 1900 元。

3. 方法一：26 × 21 ≈ 520（人）

20

520 > 500 够坐

方法二：26 × 21 ≈ 500（人）

25　20

500 = 500 够坐

答：电影院的座位够坐。

4. 25 × 4 × 15 = 1500（元）

答：买 15 套《百科全书》一共要花 1500 元。

5. 晚上 9 时 = 21 时　24 − 21 = 3（小时）

3 + 12 = 15（小时）　15 × 97 = 1455（千米）

答：甲地到乙地的铁路长 1455 千米。

6. 98 × 16 = 1568（元）　76 × 13 = 988（元）

1568 + 988 = 2556（元）

答：买桌子和柜子一共花了 2556 元。

附加题：

```
    8 6          7 6
×   2 3      ×   9 8
  2 5 8        6 0 8
1 7 2        6 8 4
1 9 7 8      7 4 4 8
```

第三、四单元跟踪检测卷

吨的认识　解决问题

一、1. 75　2. 1　3. 150　4. 200

5. 6000　5450　6. 克　千克　千克　吨　吨

7. 180

［点拨］先求小王平均一天加工多少个零件，120 ÷ 8 = 15（个），再求 12 天一共可以加工多少个零件，15 × 12 = 180（个）。

二、1. C　2. B　3. A　4. B　5. B

三、1. 6600　300　5　3600　3996　1　21　3500

2.
```
  15 × 4 × 5              640 ÷ 8 ÷ 4
= 60 × 5                  = 80 ÷ 4
= 300                     = 20
  54 ÷ 6 × 12             560 − 240 ÷ 3
= 9 × 12                  = 560 − 80
= 108                     = 480
（34 + 25）× 21           26 × 15 + 240
= 59 × 21                 = 390 + 240
= 1239                    = 630
```

3.（1）24 × 4 ÷ 6 = 16（盘）

（2）24 ÷ 2 × 6 = 72（米）

或 24 ×（6 ÷ 2）= 72（米）

四、=　<　>　<　<　<

五、1. 8900 千克 = 8 吨 900 千克

8 吨 + 8 吨 900 千克 = 16 吨 900 千克

17 吨 > 16 吨 900 千克

答：能让这辆卡车过桥。

［点拨］本题判断能不能让卡车过桥，就要先算出卡车自重和货物的质量和，看是否小于桥的承重量，如果小于就能。

2.（97 − 17）÷ 5 = 16（次）

答：要运 16 次。

3. 648 ÷ 3 ÷ 6 = 36（元）

答：张阿姨家平均每人每月电话费是 36 元。

［点拨］648 元是张阿姨家三口人 6 个月的电话费。

4. 方法一：210 ÷ 3 × 18 = 1260（个）

方法二：210 ×（18 ÷ 3）= 1260（个）

答：他 18 分钟能打 1260 个字。

5. 4 × 9 ÷ 3 = 12（吨）

答：大卡车每次可以运 12 吨。

6. 240 ÷ 4 × 9 + 240 = 780（米）

或 240 ÷ 4 ×（4 + 9）= 780（米）

答：从家到邮局的路程是 780 米。

7.（9 × 12）÷（12 ÷ 2）= 18（台）

答：实际每天生产 18 台。

附加题：6 位老师和 4 名同学买团体票：

10 × 20 = 200（元）

36 名同学买学生票：15 × 36 = 540（元）

540 + 200 = 740（元）

答：买 10 张团体票和 36 张学生票最合算。

第五单元跟踪检测卷

长方形和正方形的面积

一、1. 80　18　400　60

2.（1）厘米　厘米　平方厘米

（2）分米　平方分米　（3）平方分米

（4）厘米　（5）平方厘米

关注微信公众号“教辅资料站”获取更多学习资料

3. 24

4. 9

［点拨］已知正方形的周长是12厘米，根据正方形的周长公式先求出正方形的边长，列式为12÷4=3（厘米）；再根据正方形的面积公式求出正方形的面积，列式为3×3=9（平方厘米）。

5. 320

6. 162

［点拨］菜园一边靠墙，长是宽的2倍时面积最大。长：36÷2=18（米），宽：18÷2=9（米），面积：18×9=162（平方米）。

7. 12

［点拨］根据宽增加4厘米，面积就增加24平方厘米这两个信息，可以求出原来长方形的长，列式为：24÷4=6（厘米）；再根据宽增加4厘米后是一个正方形这个信息，可以求出原来长方形的宽，列式为：6－4=2（厘米）；知道了原来长方形的长与宽，就可以求面积了，列式为6×2=12（平方厘米）。

二、1. ×

2. ×［点拨］正方形的周长是边长的4倍。

3. √

4. ×

［点拨］测量操场的面积，选用平方米做单位比较合适。

5. √

三、1. A

2. A

［点拨］先求长方形的长，列式为5+3=8（分米），再根据长方形的面积公式求面积，列式为：8×5=40（平方分米），因此，选A。

3. B

［点拨］周长一定时，正方形的面积最大。因此选B。

4. A

5. A

［点拨］已知长方形的周长是28分米，宽是5分米这两个信息，可以求出长方形的长，列式为：28÷2－5=9（分米）；再求长方形的面积，列式为：9×5=45（平方分米）。所以选A。

6. C

四、1. 70cm　150cm^2　6m　24m^2　7m　24m

2. 8dm　4dm^2　9cm　81cm^2

五、1. 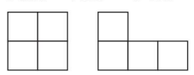

［点拨］答案不唯一，合理即可。

2. 8　8　9

六、1. 6×6=36（cm^2）　10－6=4（cm）

3×4=12（cm^2）　36+12=48（cm^2）

2. 15×15=225（cm^2）　8×8=64（cm^2）

225－64=161（cm^2）

七、1. 320÷4=80（米）　80×80=6400（平方米）

答：这个鱼池占地6400平方米。

2. 10×5=50（平方米）　5×2=10（平方米）

50－10=40（平方米）

答：要粉刷的面积是40平方米。

［点拨］求要粉刷的面积，先要求出墙的面积和2扇窗户的面积和，再用墙的面积减去2扇窗户的面积和就是要粉刷的面积。

3. 14×18=252（平方分米）

（14+18）×2=64（分米）

答：这块黑板的面积是252平方分米，花边的总长是64分米。

4. 54－18=36（米）　36×18=648（平方米）

答：这块菜地的面积是648平方米。

［点拨］根据篱笆长54米，两条边靠墙壁，一条边的长是18米这些信息，可以求出菜地的长，列式为54－18=36（米），再求菜地的面积，列式为：36×18=648（平方米）。

5. 4+2=6（米）　6×3－4×3=6（平方米）

或3×2=6（平方米）

2+2=4（米）

答：它的面积增加6平方米，周长增加4米。

附加题：

方法一：9×(2+1)=27（平方厘米）

3×1×2=6（平方厘米）

27－6=21（平方厘米）

方法二：9×2+3×1=21（平方厘米）

答：图形的面积是21平方厘米。

［点拨］此题需要先加辅助线再解答。

期中跟踪检测卷

一、1. 360　660

2. 40　60　2400

3. 28　平　365　52　1

4. 121平方分米　44分米

5. 2800　63　3500　4　800

6. 9900

7. 434　8. 32　64

9. 二

10. 81

二、1. B　2. C　3. B　4. A

三、1. ×

2. ×　［点拨］1900年是整百数的年份，判断整百数的年份是不是闰年，要除以400，看是否有余数。

3. ×　4. ×

四、1. 64　1500　20　480　600　16　1000　4000　68　5600　55　300

2. 86×35=3010　79×48=3792

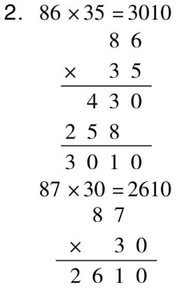

87×30=2610

3. 274+612÷4　65×(138－85)

=274+153　=65×53

=427　=3445

456÷8×43　37×17－243

=57×43　=629－243

=2451　=386

700－165÷5　125÷(31－26)

=700－33　=125÷5

=667　=25

五、<　=　>　<　>　>

六、1. 66×12=792（千米）　792÷8=99（千米）

答：小轿车平均每小时行99千米。

2. 5×3=15（块）　8×15=120（元）

或8×5=40（元）　40×3=120（元）

答：买一箱地砖要花120元。

3. 240÷3=80（棵）　80×30=2400（棵）

2400>2000　能

或30÷3=10（个）　240×10=2400（棵）

2400>2000　能　答：30天能栽2000棵树。

4. 15×22=330（千克）　3×330=990（元）

或3×15=45（元）　45×22=990（元）

答：这些苹果能卖990元。

5. 14×14=196（平方米）　14×3=42（米）

答：这块菜地的面积是196平方米，需篱笆42米。

附加题：28－2=26（m）　10－2=8（m）

26×8=208（m^2）

答：绿地的面积是208 m^2。

第六单元跟踪检测卷

分数的初步认识

一、1. 5　7　2. $\frac{8}{10}$　$\frac{5}{7}$　3. $\frac{9}{10}$　$\frac{3}{10}$　4. $\frac{1}{7}$　$\frac{1}{8}$

5. $\frac{3}{8}$　6. 八分之三　7. $\frac{3}{10}$

8. 5　5（答案不唯一）9　9. 5　4　3　2

10. $\frac{1}{4}$

二、1. √　×　×　√　2. √

3. ×

［点拨］分子是1的分数，分母大的反而小，所以$\frac{1}{8}<\frac{1}{7}$。

4. ×　5. ×

三、1. A　2. B　3. C　4. A　5. C　B

四、1　$\frac{7}{8}$　$\frac{3}{6}$　$\frac{6}{9}$　$\frac{3}{10}$　$\frac{5}{7}$　$\frac{6}{8}$　$\frac{5}{12}$　$\frac{7}{10}$

五、>　>　=　<　<　>　<　<　<　<

六、1. 3　$\frac{3}{12}$　4　$\frac{4}{12}$　5　$\frac{5}{12}$

2. 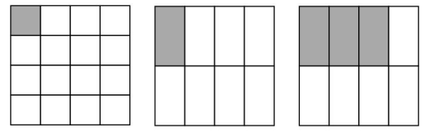

（分法不唯一）

$\frac{1}{16}$　$\frac{1}{8}$　$\frac{3}{8}$

七、1.（1）$\frac{3}{8}+\frac{2}{8}+\frac{1}{8}=\frac{6}{8}$

答：他们一共吃了这个西瓜的$\frac{6}{8}$。

（2）$1-\frac{6}{8}=\frac{2}{8}$

答：这个西瓜还剩下$\frac{2}{8}$。

2. $\frac{3}{8}+\frac{4}{8}=\frac{7}{8}$　$\frac{4}{8}-\frac{3}{8}=\frac{1}{8}$

答：两天一共铺了这条路的$\frac{7}{8}$，今天比昨天多铺了这条路的$\frac{1}{8}$。

3.

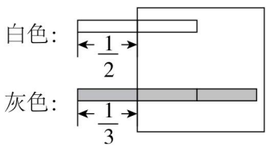

答：灰色的纸条长一些。

4. $1-\frac{2}{5}=\frac{3}{5}$　$\frac{3}{5}-\frac{2}{5}=\frac{1}{5}$

答：女生比男生少占全班人数的$\frac{1}{5}$。

附加题：1. $\frac{1}{16}$

2.

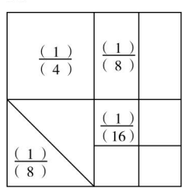

第七单元跟踪检测卷

小数的初步认识

一、1. 36.48　2. 0.3　0.7　3. 6　4. 4.7

5. 14.4

［点拨］将1.6的小数点去掉，那就是16，求16比1.6多多少，列式为16－1.6=14.4。

关注微信公众号“教辅资料站”获取更多学习资料

6. 1.3　1.4　1.5

［点拨］答案不唯一。

7.（1）1.3　1.6　1.9

（2）4.4　3.7　3

二、1. ×　2. √

3. ×

［点拨］1.6 米是 1 米 6 分米。

4. √

5. ×

［点拨］有无数个，如 0.21，0.15……

三、1. C　2. C　3. B　4. C　5. C　6. C

四、1. 3.7　0.5　1.2　0　3　1　9　1.8　10

2. 3.4 + 6.6 = 10

$$\begin{array}{r} 3.4 \\ +\ 6.6 \\ \hline 10.0 \end{array}$$

5.7 − 0.9 = 4.8

$$\begin{array}{r} 5.7 \\ -\ 0.9 \\ \hline 4.8 \end{array}$$

8 − 4.8 = 3.2

$$\begin{array}{r} 8.0 \\ -\ 4.8 \\ \hline 3.2 \end{array}$$

3. 0.5　5.8　0.9　4.2　9.7　15

五、>　<　<　=　>　<　>　>　=

六、1. 0.3　0.7　1.5　1.9　2.9

2. 32　6　15　8　27　4

七、1.（1）20 − 18.4 = 1.6（元）

答：还剩 1.6 元。

（2）3.5 + 7.8 = 11.3（元）

答：一共要花 11.3 元。

2. 4.3 − 0.3 − 1.4 = 2.6（米）

答：水池蓄水的深度是 2.6 米。

3.（1）5 − 3.6 = 1.4（吨）

1.6 吨 > 1.4 吨

答：长颈鹿现在不能上桥。

（2）2.1 + 1.6 + 0.8 = 4.5（吨）

5 吨 > 4.5 吨

答：犀牛、长颈鹿、斑马能同时上桥。

4. 油：3.4 − 1.9 = 1.5（千克）

1.5 + 1.5 = 3（千克）

桶：3.4 − 3 = 0.4（千克）

答：原来油重 3 千克，桶重 0.4 千克。

［点拨］一桶油连桶共重 3.4 千克，用去一半油后，连桶共重 1.9 千克。根据这两个信息，可以求出一半油的质量，列式为：3.4 − 1.9 = 1.5（千克），求原来油的质量，列式为：1.5 + 1.5 = 3（千克）；最后求桶的质量，列式为：3.4 − 3 = 0.4（千克）。

附加题：39.8 − 24 + 2.4 = 18.2

答：正确的结果是 18.2。

第八、九、十单元跟踪检测卷

认识方向　整理数据　数学百花园

一、1. 南　3　9　2. 东　南　北

3. 东　南　西　北　东南　东北　西南　西北

4. 160　5. 30　300

6.（1）正西　正东　（2）书店　超市

（3）东南　西北　（4）体育馆　小红家

7. 强强　丽丽　雯雯

［点拨］要使等候的时间总和最少，就要先从需要时间最少的开始做起。

8. 7

二、1. B　2. B　3. A　4. C

5. A　［点拨］设三片面包分别是①、②、③，第一次烤①、②的正面，用 2 分钟；第二次烤③的正面和②的反面（烤 1 分钟后，拿下②），用 2 分钟；第三次烤①和③的反面，用 1 分钟。所以一共用 2 + 2 + 1 = 5（分钟）。

三、1. 苹果：780 − 660 = 120（g）

桃子：（660 − 120 × 3）÷ 3 = 100（g）

2.（100 − 20 − 5）÷（5 − 2）= 25（g）

四、1. 12　6　16　7

2.（1）画正字　（2）41　（3）张盼

（4）赵敏　（5）张盼

五、

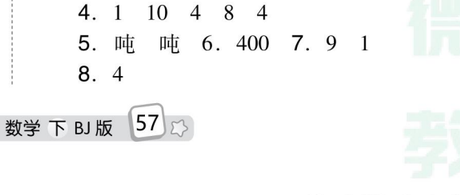

六、1. 2　3　1　4　5

［点拨］2~4 的顺序可调换

1 小时 + 30 分钟 = 1 小时 30 分钟

答：妈妈做完这几件事至少要用 1 小时 30 分钟。

［点拨］在用自动洗衣机洗被罩的同时，可以完成刷碗整理厨房、打扫客厅及手洗豆豆的衣服。

2.（166 − 156）÷（8 − 6）= 5（元）

答：一个杯子 5 元。

［点拨］左图比右图少 2 个杯子，那么价钱差就是 2 个杯子的价钱；求一个杯子的价钱，就要再除以 2。（方法不唯一）

附加题：篮球的单价：（420 − 330）÷（8 − 5）= 30（元）

答：篮球的单价是 30 元。

足球的单价：（330 − 30 × 5）÷ 4 = 45（元）

答：足球的单价是 45 元。

期末总复习　模块过关卷（一）

数与代数　统计

一、1. 366　7　4　91　2. 25　4　1　1000

3. 三　四

4. 1　10　4　8　4

5. 吨　吨　6. 400　7. 9　1

8. 4

［点拨］125 × ☆，要使积的末尾有两个 0，就要想 25 × （　　）= 100，所以 ☆ 最小是 4。

9. 21　10. 三

二、1. √　2. ×　3. ×　4. √

5. ×

［点拨］分子是 1 的分数，分母大的反而小，所以 $\frac{1}{7} < \frac{1}{5}$。

三、1. C　2. C　3. C　4. A　5. C　6. B

四、<　<　>　=　<　=　=　<　<　<

五、1. $\frac{4}{8}$　$\frac{6}{9}$　$\frac{2}{10}$　$\frac{6}{9}$　$\frac{4}{6}$　4

2. 65 × 25 = 1625

$$\begin{array}{r} 65 \\ \times\ 25 \\ \hline 325 \\ 130 \\ \hline 1625 \end{array}$$

28 × 70 = 1960

$$\begin{array}{r} 28 \\ \times\ 70 \\ \hline 1960 \end{array}$$

49 × 37 = 1813

$$\begin{array}{r} 49 \\ \times\ 37 \\ \hline 343 \\ 147 \\ \hline 1813 \end{array}$$

4.9 + 10.1 = 15

$$\begin{array}{r} 4.9 \\ +\ 10.1 \\ \hline 15.0 \end{array}$$

5.7 − 2.8 = 2.9

$$\begin{array}{r} 5.7 \\ -\ 2.8 \\ \hline 2.9 \end{array}$$

28 + 5.6 = 33.6

$$\begin{array}{r} 28.0 \\ +\ 5.6 \\ \hline 33.6 \end{array}$$

3. 516 ÷ 6 × 23
= 86 × 23
= 1978

44 ×（26 + 39）
= 44 × 65
= 2860

24 × 36 − 118
= 864 − 118
= 746

六、1. 17　18　3

2.（1）画正字　（2）滑冰　赏冰雕　（3）2

七、1. 20 × 15 × 3 = 900（字）　1000 > 900

答：3 页纸不够。

2. 480 ÷ 6 ÷ 4 = 20（箱）

或 480 ÷（6 × 4）= 20（箱）

答：共可以装 20 箱。

3. 135 ÷ 3 × 15 = 675（元）

或 135 ×（15 ÷ 3）= 675（元）

答：买 15 盒巧克力需要 675 元。

附加题：55 ÷（39 − 34）= 11　11 × 34 = 374

答：正确的积是 374。

［点拨］因为把第二个因数 34 个位上的数字 4 看成了 9，多算了 5，相应的积多了 55，那么这 55 对应的就是第一个因数的 5 倍，根据这个关系，可以求出第一个因数，列式为：55 ÷（39 − 34）= 11；知道了两个因数，接下来就可以求正确的积了，列式为：11 × 34 = 374。

期末总复习　模块过关卷（二）

图形与方向

一、1. 东　西　2. 南　北　3. 南　西南

4. 1 厘米　1 平方米

5.（1）平方厘米　（2）平方米

（3）分米　千克　（4）平方分米

6. 25 cm^2

［点拨］要先求正方形的边长，然后才能求正方形的面积。

7. 10　6

二、1. 牡丹园　东北

2. 东北　西南

3. 东　东　北　西北

4. 凉亭　西南

三、1. C

2. A

3. B

［点拨］根据长方形的长为 16 cm、宽为 8 cm，求出长方形的周长，列式为：（16 + 8）× 2 = 48（cm）；还是这根铁丝，把它围成正方形，那么正方形的周长就是长方形的周长，根据这个信息，可以求出正方形的边长，列式为：48 ÷ 4 = 12（cm）；知道正方形的边长，就可以求正方形的面积了，列式为：12 × 12 = 144（cm^2），所以选 B。

4. A　［点拨］长和宽各增加 2 cm，那么长变成 8 cm，宽变成 5 cm，这时可以求新长方形的面积，列式为：8 × 5 = 40（cm^2）；新长方形的面积 − 原来长方形的面积，就是增加的面积，列式为：40 − 6 × 3 = 22（cm^2），所以选 A。5. D

四、11 平方厘米　11 平方厘米　11 平方厘米

五、1. 西　西北

2.~4.

6	2	3
4	1	9
8	7	5

北

六、1.（1）39 × 18 = 702（dm^2）

（2）26 × 26 = 676（m^2）

2.（1）30 × 20 − 6 × 6 = 564（m^2）

（2）12 × 12 − 5 × 5 × 4 = 44（cm^2）

3.（1）周长：14 厘米　面积：12 平方厘米

（2）周长：20 厘米　面积：13 平方厘米

七、1. 8　2. 画图略。　3. 画图略。

八、1. 东北

2. 西南

3. 西北

4. 远帆阁　东南　［点拨］此题答案不唯一。

5. 普安殿　正觉殿　［点拨］此题答案不唯一。

关注微信公众号“教辅资料站”获取更多学习资料

九、1.（70 + 25）×（50 + 15）= 6175（平方米）
6175 − 70 × 50 = 2675（平方米）
答：长方形操场的面积增加了 2675 平方米。
［点拨］扩建后的面积减去扩建前的面积，就是增加的面积。

2. 卫生间的地面面积：
3 × 2 = 6（平方米）
6 平方米 = 600 平方分米
选择边长 1 分米的方砖需要：
600 ÷（1 × 1）× 3 = 1800（元）
选择边长 2 分米的方砖需要：
600 ÷（2 × 2）× 10 = 1500（元）
1500 < 1800
答：选择边长 2 分米的方砖，费用比较便宜。

附加题：28 − 16 = 12（厘米） 16 − 12 = 4（厘米）
12 × 4 = 48（平方厘米）
答：这时剩下部分的面积是 48 平方厘米。
［点拨］先剪下的最大的正方形的边长是 16 厘米，剩下长方形的长是 16 厘米，宽是 28 − 16 = 12（厘米）；再剪下的最大的正方形的边长是 12 厘米，剩下长方形的长是 12 厘米，宽是 16 − 12 = 4（厘米）；这时剩下的面积是 12 × 4 = 48（平方厘米）。

期末总复习
仿真模拟卷(一)

一、150 5.9 $\frac{2}{4}$ 260 4.1 $\frac{5}{7}$ 1000 6.7 $\frac{2}{8}$
1600 10 $\frac{9}{10}$

二、1. $\frac{2}{5}$ 4.8 2. 600 3050 3. 28 7
4. 2800 5. 平方米 6. 0.8 7. 10
8. 216
［点拨］先求横着的甬路的面积，再求竖着的甬路的面积，这时我们会发现：中间有个 2 米 ×2 米的重叠面积，所以还要减去一个重叠面积，列式为：70 × 2 + 40 × 2 − 2 × 2 = 216（平方米）。

三、1. B
2. B
［点拨］根据周长一定时，正方形的面积最大，可以先求正方形的边长，列式为：100 ÷ 4 = 25（米），然后求正方形的面积，列式为：25 × 25 = 625（平方米），所以选 B。
3. C

四、> < > > > = < <

五、46 × 25 = 1150　77 × 81 = 6237　39 × 60 = 2340

```
  46      77      39
× 25    × 81    × 60
----    ----    ----
 230      77    2340
 92      616
----    ----
1150    6237
```

六、348 ÷ 6 + 270 = 58 + 270 = 328　（145 − 69）× 35 = 76 × 35 = 2660
279 ÷ 9 × 23 = 31 × 23 = 713

七、1.

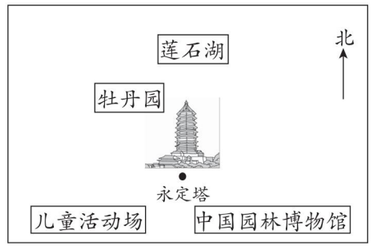

2. 150

八、1. 2 2. 6 3. 画图略。

九、1. 9 11 4
2. 20
3. 多数学生没有达到科学的睡眠时间，要增加睡眠；建议老师们减少学生的课业负担。

十、1. 60 × 3 = 180（千米） 180 ÷ 2 = 90（千米）
答：平均每小时行 90 千米。
2. 2 × 3 = 6（片）
6 × 2 × 7 = 84（片）
84 < 90
答：这瓶药够吃两周。
3.（1）85 × 6 × 12 = 6120（元）
答：一共要花 6120 元。
（2）6 × 3 = 18（平方米）
18 平方米 = 1800 平方分米
3 × 3 = 9（平方分米）
1800 ÷ 9 = 200（块）
答：要用 200 块。

附加题：36 ÷ 4 = 9（根） 189 ÷ 9 = 21（小时）
21 − 4 = 17（小时）
答：还需要安装 17 小时。

期末总复习
仿真模拟卷(二)

一、2400 18000 6000 320 2 5 0.8 4.2 $\frac{1}{7}$
1 $\frac{8}{9}$ $\frac{4}{6}$

二、1. 35
2. > < = > < >
3. 60 30 1800
4. $\frac{7}{10}$ $\frac{1}{10}$
5. 100 平方米 58 米
6. 13

三、1. C 2. B 3. C 4. B

四、32 × 13 = 416　68 × 47 = 3196

```
  32      68
× 13    × 47
----    ----
  96     476
 32     272
----    ----
 416    3196
```

7.2 − 1.3 = 5.9

```
 7.2
-1.3
----
 5.9
```

五、35 × 20 − 35 = 700 − 35 = 665　576 ÷ 6 × 26 = 96 × 26 = 2496
（156 − 117）× 46 = 39 × 46 = 1794

六、

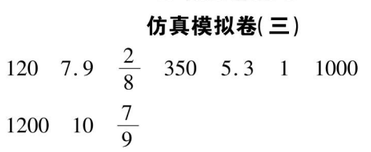

七、1.（1）16 18 （2）涂阴影略。
2. 画图略。 >

八、1. 3 20 5 2 2. 30 3. 良

九、1. 3 × 24 × 15 = 1080（元）
答：买 15 箱这样的矿泉水共需 1080 元。
2. 144 ÷ 8 ÷ 6 = 3（棵）
答：平均每人植树 3 棵。
3. 9 × 3 − 12 = 15（平方米）
13 × 12 = 156（元）
答：粉刷的实际面积是 15 平方米，一共要花 156 元。
［点拨］要求粉刷的实际面积，就要用这面墙的面积减去窗户的面积，列式为：9 × 3 − 12 = 15（平方米）；求安装玻璃要花多少钱，就要用玻璃的单价乘窗户的面积，列式为：13 × 12 = 156（元）。
4.（1）6.2 + 3.4 = 9.6（元） 9.6 < 10
答：能买故事书和橡皮，需要 9.6 元。
（2）买一个书包和一本故事书，一共需要多少元？
24.5 + 6.2 = 30.7（元）
答：一共需要 30.7 元。
［点拨］（2）题答案不唯一。

附加题：52.6 + 42 = 94.6 94.6 − 4.2 = 90.4

期末总复习
仿真模拟卷(三)

一、120 7.9 $\frac{2}{8}$ 350 5.3 1 1000 5.5 $\frac{3}{7}$
1200 10 $\frac{7}{9}$

二、1. $\frac{4}{10}$ 4.2 2. 4 3. 20
4. 7
5. 60
6. $\frac{1}{10}$
7. 99
［点拨］边长 10 米的正方形，横边增加 1 米，竖边减少 1 米，这时的长方形长是 11 米，宽是 9 米，面积是 99 平方米。
8. 1.4 1.7
9. $\frac{1}{8}$
10. 4.3 7

三、1. A 2. A 3. B 4. B 5. C

四、> < < < > > > =

五、35 × 42 = 1470　67 × 30 = 2010

```
  35      67
× 42    × 30
----    ----
  70    2010
 140
----
1470
```

3.8 + 9.4 = 13.2

```
 3.8
+9.4
----
13.2
```

六、276 ÷ 6 × 14 = 46 × 14 = 644　45 × 36 + 120 = 1620 + 120 = 1740
（205 − 58）÷ 3 = 147 ÷ 3 = 49

七、1. 6 2. 9 3. 画图略。

八、1. 2 3 8 3 2. 21 ~ 30 件
3. 网购的人越来越多。
［点拨］答案不唯一，合理即可。

九、1. 500 × 20 × 8 = 80000（张）
答：一共买来 80000 张。
2. 280 ÷ 7 ÷ 5 = 8（台）
答：平均每人每天维修 8 台。
3.（1）28 （2）120 ÷（36 ÷ 9）= 30（吨）
答：他家用了 30 吨水。
［点拨］（2）题方法不唯一。
4. 80 × 6 ÷ 4 = 120
数学题：植树队每天植树 80 棵，6 天完成。如果要 4 天完成，每天应植树多少棵？
［点拨］数学题不唯一，合理即可。

附加题：8 + 1 + 1 = 10（米） 10 × 10 = 100（平方米）
8 × 8 = 64（平方米） 100 − 64 = 36（平方米）
答：彩石路的面积是 36 平方米。
［点拨］铺路后的总面积减去草坪的面积，就是彩石路的面积。（方法不唯一）

荣德基基卷

关注微信公众号“教辅资料站”获取更多学习资料

小卷：周测卷·专项卷·题型卷



01 周测培优卷（12套）

02 专项提升卷（4套）

03 题型突破卷（5套）

三年级 数学 下

（BJ版）

赠送 ZENG SONG

关注微信公众号“教辅资料站”获取更多学习资料



目录

周测培优卷

认识年、月、日和区分平年、闰年 …… 01
两位数乘两位数的计算 …… 03
吨的认识及吨与千克之间的换算 …… 05
用两步计算解决实际问题 …… 07
长方形和正方形的面积和面积单位 …… 09
长方形和正方形的面积的综合运用 …… 11
分数的意义及分数大小比较 …… 13
同分母分数加减法 …… 15
小数的认识及一位小数加减法的计算 …… 17
方向的辨认和应用 …… 19
用统计表分段整理数据 …… 21
比较及合理安排时间 …… 23

专项提升卷

两位数乘两位数的笔算、估算及实际应用 …… 25
分数和小数的综合应用 …… 27
面积的单位、计算及应用 …… 29
单位换算和方向的实际应用 …… 31

题型突破卷

填空题 …… 33
选择题 …… 35
计算题 …… 37
图形题 …… 39
应用题 …… 41

参考答案及点拨 …… 43

关注微信公众号“教辅资料站”获取更多学习资料

专项提升卷1 两位数乘两位数的笔算、估算及实际应用

班级_____ 姓名_____ 时间：40分钟

提升点1：进位乘法的计算

（一）注意进位乘法中的进位数

1. 改错。

```
    47
×   26
   242
   94
  1182
```

改正：

2. 用竖式计算。

36×38=　　29×53=

89×46=　　45×16=

（二）一个因数是11的乘法的简算

3. 你能快速算出下面各题的积吗？

26×11=　　47×11=

85×11=　　73×11=

38×11=　　69×11=

42×11=　　98×11=

（三）因数末尾有0的乘法的计算

4. 选择题。

（1）26×50的积的末尾有(　　)个0。

A. 1　　B. 2　　C. 3

（2）9×54的积的末尾添(　　)个0，等于90×540的积。

A. 2　　B. 1　　C. 3

5. 用竖式计算。

53×40=　　66×80=

提升点2：估算的技巧

6. 估算38×73时，3位小朋友有如下方法：

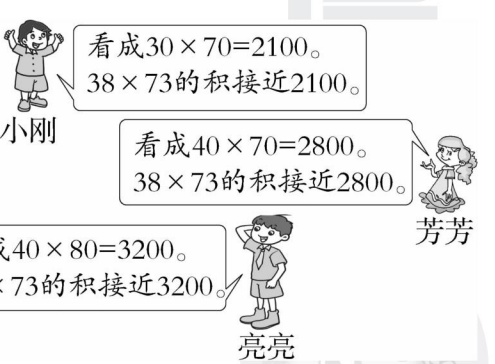

你认为哪位小朋友估算的结果最接近准确值。(　　)

荣德基好卷

关注微信公众号“教辅资料站”获取更多学习资料

7. 一页稿纸有 22 行，每行能写 19 个字，一页稿纸能写下 450 个字的作文吗？

8. 同学们去郊游，班主任王老师发现，整个队伍平均每分钟走 72 米。如果同学们在郊游的路上走了 48 分钟，那么他们大约走了多少米？

提升点 3：解决生活中的实际问题

（一）“够不够”问题

9. 一把椅子的价钱是 36 元，刘老师要买 28 把椅子，他准备了 1000 元钱，够吗？

10. 暑假期间，学校组织 450 名同学参加夏令营活动。在准备物品时，老师计划给每名同学准备一瓶矿泉水。每箱矿泉水 24 瓶，准备 21 箱够吗？

（二）购票问题

11. 李老师和王老师带领全班 27 名学生去天文馆参观，买门票要付多少钱？



（三）用电问题

12. 某超市 2018 年第二季度每月缴纳电费情况如下表。

月份	四	五	六
平均每天电费/元	63	75	82

（1）四月份缴纳电费多少元？

（2）六月份比五月份多缴纳电费多少元？

荣德基试卷

关注微信公众号“教辅资料站”获取更多学习资料

专项提升卷2 分数和小数的综合应用

班级_____ 姓名_____ 时间：40分钟

提升点1：认识分数、小数

（一）认识分数

1. 判断。

（1）把一块蛋糕分成4份，每份是这块蛋糕的$\frac{1}{4}$。（　　）

（2）下面三个图形中的阴影部分都是整个图形的$\frac{1}{5}$。（　　）



（3）把一个苹果分成8份，其中的3份是$\frac{3}{8}$。（　　）

（4）5个$\frac{1}{7}$是$\frac{5}{7}$。（　　）

（5）$1=\frac{10}{10}=\frac{6}{6}$（　　）

（二）认识小数

2. 选择。

（1）30.9的小数部分是(　　)。

A. 30　　B. 0.9　　C. 9

（2）9个0.1是(　　)。

A. 9　　B. 9.1　　C. 0.9

（3）把1分米平均分成10份，每份是(　　)。

A. 10厘米　　B. 0.1厘米

C. 0.1分米

提升点2：分数、小数的大小比较

（一）分数的大小比较

3. 用分数表示，并比较分数的大小。



(　　)>(　　)>(　　)

4. 在◯里填上“>”“<”或“=”。

$\frac{4}{8}$◯$\frac{3}{8}$　$\frac{3}{7}$◯$\frac{4}{7}$　$\frac{1}{5}$◯$\frac{1}{6}$

$\frac{7}{9}$◯$\frac{3}{9}$　$\frac{6}{6}$◯1　$\frac{1}{8}$◯$\frac{1}{4}$◯$\frac{3}{4}$

（二）小数比较大小的灵活运用

5. 在(　　)里填上合适的一位小数。

（1）5>(　　)>4

（2）6.2<(　　)<6.4

（3）1>(　　)>(　　)>0.7

（4）(　　)<(　　)<(　　)

提升点3：分数、小数的计算

（一）分数的计算

6. 直接写出得数。

$\frac{1}{5}+\frac{2}{5}=$　$\frac{3}{6}-\frac{2}{6}=$　$\frac{5}{7}-\frac{3}{7}=$

$\frac{2}{9}+\frac{5}{9}=$　$1-\frac{4}{9}=$　$\frac{5}{10}+\frac{4}{10}=$

$\frac{2}{8}+\frac{5}{8}=$　$\frac{5}{7}-\frac{1}{7}=$　$\frac{4}{6}-\frac{2}{6}+\frac{3}{6}=$

荣德基好卷

关注微信公众号“教辅资料站”获取更多学习资料

$\frac{3}{10}+\frac{1}{10}+\frac{3}{10}=$　　$1-\frac{4}{7}-\frac{2}{7}=$

7. 分数加减法的变式练习。

$\frac{1}{4}+(\quad)=\frac{3}{4}$

$\frac{5}{8}-\frac{(\quad)}{8}-\frac{(\quad)}{8}=\frac{1}{8}$

$(\quad)-\frac{7}{9}=\frac{2}{9}$

$\frac{(\quad)}{5}+\frac{(\quad)}{5}=1$

$1-\frac{(\quad)}{8}=\frac{(\quad)}{8}+\frac{(\quad)}{8}=\frac{5}{8}$

（二）小数的计算

8. 改错。

$\begin{array}{r} 3.5 \\ -\ 2.8 \\ \hline 7 \end{array}$　改正：

9. 用竖式计算。

$22.5+0.8=$　　$32.3+2.7=$

$9.2-1.6=$　　$11.5-7.5=$

提升点4：分数、小数的灵活运用

10. 运用平移法解决平均分问题。

下图中的阴影部分占整个长方形的(　　)。

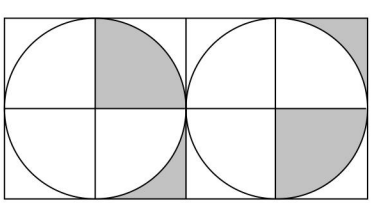

11. 运用推理法解决数字谜问题。

$\begin{array}{r} 9.\square \\ -\ \square.2 \\ \hline 3.4 \end{array}$　　$\begin{array}{r} 8.\square \\ -\ \square.3 \\ \hline 2.8 \end{array}$

提升点5：解决生活中的分数、小数的实际问题

12. 星期日，小明从家到图书馆去借书，走了$\frac{3}{11}$千米后，已走的路比未走的路少$\frac{2}{11}$千米，从小明家到图书馆有多少千米？

13. 小华过生日，妈妈买来一个蛋糕，爸爸吃了蛋糕的$\frac{1}{5}$，妈妈吃了蛋糕的$\frac{2}{5}$，剩下的都让小华吃了。小华吃了这个蛋糕的几分之几？

14. 小美从家到学校要走1.6千米。今天她去上学，走了0.4千米后发现数学书忘记带了，立即沿原路返回取书。今天她比平时去学校多走了多少千米？

荣德基好卷

关注微信公众号“教辅资料站”获取更多学习资料

专项提升卷3 面积的单位、计算及应用

班级_____ 姓名_____ 时间：40分钟

提升点1：面积单位的灵活运用

1. 在(　　)里填上合适的单位名称。

(1) 教室的地面长大约是6(　　)。

(2) 黑板的面积大约是2(　　)。

(3) 小丽手掌的面积大约是1(　　)。

(4) 一块橡皮的面积大约是3(　　)。

(5) 练习本封面的面积大约是3(　　)。

提升点2：面积单位间的转化

2. 细心算一算。

200 cm^2 = (　　) dm^2

8000 dm^2 = (　　) m^2

6 dm^2 = (　　) cm^2

14 m^2 = (　　) dm^2

10000 cm^2 = (　　) dm^2 = (　　) m^2

3. 精心比一比。

350 m^2 ◯ 530 dm^2

5 dm^2 ◯ 500 cm^2

500 dm ◯ 431 m

14 m^2 ◯ 1400 dm^2

280 dm^2 ◯ 2 $m^2$80 dm^2

提升点3：长方形、正方形面积的计算

(一) 长方形、正方形面积的计算

4. 计算下面图形的面积。(单位：厘米)

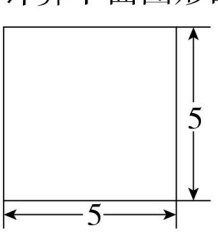

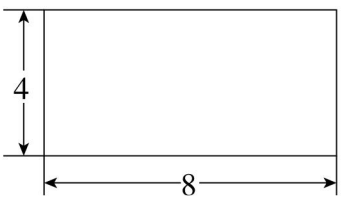

(二) 面积的变式练习

5. 填空。

(1) 周长是16米的一个正方形水池，它的占地面积是(　　)。

(2) 一块长方形菜地的宽是6米，长是宽的2倍，这块长方形菜地的面积是(　　)平方米。

(3) 两个边长为6厘米的正方形拼成一个长方形(不能重叠)，这个长方形的周长是(　　)厘米；面积是(　　)平方厘米。

(4) 边长是10米的正方形铁板，最多能裁成(　　)个边长是3分米的小正方形。

(5) 至少再添(　　)个下面形状的纸板(如图)，才能拼出一个正方形；如果一个小方格表示1平方厘米，拼成的正方形的面积是(　　)平方厘米。

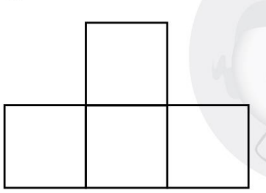

关注微信公众号“教辅资料站”获取更多学习资料

提升点4：长方形、正方形面积在生活中的应用

6. 某小区有一块正方形园地，中间是一个正方形花坛，要在园地内除花坛外的空地上铺上草坪，需要多少平方米的草坪？

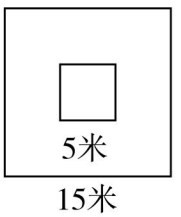

7. 李爷爷在一块长 8 米，宽 6 米的长方形菜地上种了白菜。如果每平方米可以收白菜 18 千克，李爷爷可以收获多少千克白菜？

8. 有一块菜地长 40 米、宽 28 米，菜地中间留了 1 米宽的路（如图）。这块菜地能种菜的面积是多少平方米？

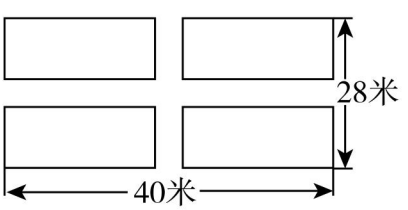

9. 有两个完全一样的长方形，长都是 36 cm，宽都是 18 cm。如果用它们拼成一个大长方形或一个正方形，它们的周长和面积分别是多少？（先画图，再求周长和面积）

10. 一张桌子的桌面是长 15 dm、宽 4 dm 的长方形，现在把这样的两张桌子拼在一起，拼成一个大长方形桌面。如果给大长方形桌面配上一块玻璃板，需要一块多大面积的玻璃板？沿玻璃板的边沿粘上胶条，需要多长的胶条？

荣德基好卷

关注微信公众号“教辅资料站”获取更多学习资料

专项提升卷4 单位换算和方向的实际应用

班级_____ 姓名_____ 时间：40分钟

提升点1：年、月、日的认识

（一）生活中的时间问题

1. 想一想，填一填。

（1）世界卫生组织将每年五月的最后一天定为世界无烟日，世界无烟日是（　　）月（　　）日。

（2）记住这些日子。

教师节：（　　）月（　　）日

儿童节：（　　）月（　　）日

劳动节：（　　）月（　　）日

元旦：（　　）月（　　）日

中国共产党的生日：（　　）月（　　）日

（二）时间的计算

2. 选择。

（1）李老师1998年7月参加工作，到2019年12月，她一共过了（　　）个教师节。

A. 19　　B. 20　　C. 22

（2）某学校运动会的日期是5月28日到6月3日，运动会将举行（　　）天。

A. 6　　B. 7　　C. 8

（3）小红从超市买来一箱矿泉水，生产日期是2019年1月15日，保质期为六个月，最晚到（　　）有质量保证。

A. 2019年6月15日

B. 2019年7月15日

C. 2019年7月14日

（三）平年、闰年的判断

3. 你能分清平年和闰年吗？请你连一连。





（四）利用分析法解决有关时间计算的问题

4. 玩具厂今年从3月26日到4月3日共生产了828个玩具。平均每天生产多少个玩具？

5. 2019年的1月1日是星期二，2019年的最后一天是星期几？2020年的最后一天是星期几？

提升点2：吨的认识

（一）吨的认识

6. 在（　　）里填上合适的质量单位。

（1）一辆汽车约重2（　　）。

关注微信公众号“教辅资料站”获取更多学习资料

（2）一瓶汽水约重500(　　)。

（3）一箱橘子约重10(　　)。

（4）一头河马约重2(　　)。

（二）生活中的质量问题

7. 在正确答案下面画“√”。



40g	4kg	1000g	1t	25g	25kg

（三）单位换算

8. 填一填。

1吨=(　　)千克

5 t=(　　)kg

8000 kg=(　　)t

1吨300千克=(　　)千克

4800 kg=(　　)t(　　)kg

5 t 20 kg=(　　)kg

3吨-500千克=(　　)千克

8吨+20千克=(　　)千克

9. 在◯里填上“>”“<”或“=”。

5吨◯5100千克

400千克◯3吨

1000吨◯1000千克

9999千克◯1吨

100千克◯100克

10吨◯2000千克+8000千克

（四）运用等量代换解决质量问题

10. 1头大象的体重等于6头牛的体重，1头牛的体重等于2头猪的体重，1头猪的体重是250千克，1头大象的体重是多少千克？合多少吨？

11. 小红家四月份用水5吨，五月份比四月份多用水1000千克，每吨水4元。她家这两个月一共交水费多少钱？

提升点3：认识方向

（一）观察点变化后的方向的变化

12. 填空。

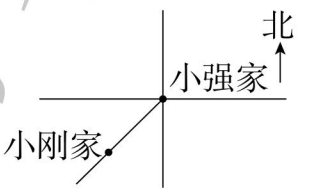

小刚家在小强家的(　　)面，小强家在小刚家的(　　)面。

（二）方向在生活中的实际应用

13. 在下图中，根据方向填上各景点的名称。



（1）天坛在北海公园的正南方向，北海公园的东北方向是慕田峪长城，西北方向是八达岭长城。

（2）圆明园的正北方向是颐和园，圆明园的东南方向是雍和宫，香山公园在圆明园的正西方向。

荣德基好卷

关注微信公众号“教辅资料站”获取更多学习资料

题型突破卷1 填空题

班级_____ 姓名_____ 时间：40分钟

专项1：年、月、日

1. 一年有(　　)个月，平年有(　　)天，闰年有(　　)天。
2. 一年中最少有(　　)个星期日，最多有(　　)个星期日。
3. 8月1日的前一天是(　　)月(　　)日。
4. 1921年7月1日中国共产党成立，到2019年7月1日是建党(　　)周年。
5. 2020年小丽12周岁，可她只过了3个生日，小丽是(　　)年(　　)月(　　)日出生的。
6. 某小学在2018年的2月27日到3月16日开展读书节活动，活动持续了(　　)天。
7. 2018年1月1日是星期一，那么2019年元旦是星期(　　)。

专项2：乘法

8. 最大的两位数与最小的三位数乘积是(　　)，和是(　　)。
9. 60×50的积的末尾有(　　)个0。
10. 书的一页有22行，每行约有29个字，这页大约有(　　)个字。
11. □5×21，当□里填(　　)时，这个算式的积是三位数；要使积是四位数，□里可以填(　　)。
12. 不计算，在○里填上“>”“<”或“=”。

27×50 ○ 270×50

16×27 ○ 27×28

68×0 ○ 0×680

56×30 ○ 56×3

25×23 ○ 23×18

32×8 ○ 16×16

专项3：吨的认识

13. 一桶矿泉水重20 kg，(　　)桶这样的矿泉水重1 t。
14. 2吨200千克=(　　)千克

5千克=(　　)克

2吨=(　　)千克

5400千克=(　　)吨(　　)千克

2 t−1350 kg=(　　)kg

5 kg−500 g=(　　)g

15. 在(　　)里填上合适的质量单位。

(1) 一瓶酱油约重1(　　)。

(2) 一辆卡车载重量约是8(　　)。

(3) 一名三年级学生约重30(　　)。

(4) 一盒酸奶约重500(　　)。

荣德基好卷

关注微信公众号“教辅资料站”获取更多学习资料

16. 在◯里填上“＞”“＜”或“＝”。

5 kg ◯ 500 g　　1000 kg ◯ 10 t

2 t ◯ 2000 kg　　4000 g ◯ 4 t

17. 一匹斑马重350千克，3匹这样的斑马比1吨多(　　)千克。

18. 有1吨沙子和石块，拿出来一半的石块，还剩800千克，沙子重(　　)千克。

专项4：比较

19. 每个小茶杯重多少克？

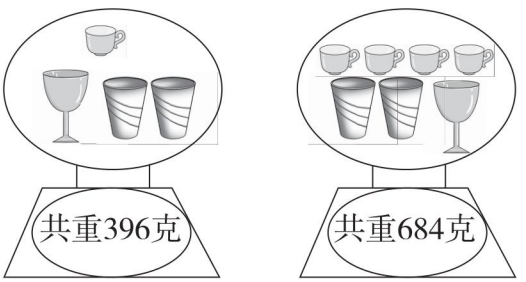

重(　　)克

20. 每个西瓜和菠萝各重多少千克？



重4千克　　重(　　)千克

重(　　)千克

21. 

12千克　　16千克

一只小猫重(　　)千克，一只小猴重(　　)千克。

22. 

80元　　110元　　60元

每本

(　　)元，每本

(　　)元，每本

(　　)元。

23. □＋○＝46　　△＋□＝52

△＋○＝24

△＝(　　)　　○＝(　　)

□＝(　　)

专项5：合理安排时间

24. 李丽每天晚上睡觉前要背诵成语6分钟，烧开水10分钟，泡麦片2分钟，喝麦片5分钟，那么李丽在(　　)的同时可以(　　)，做完这些事情最少用(　　)分钟。

25. 一只平底锅里只能同时煎2条鱼，用它煎一条鱼需要4分钟(正、反面各2分钟)。那么，煎6条鱼至少需要(　　)分钟。

26. 妈妈做这顿饭至少需要(　　)分钟。


5分钟洗菜


7分钟择菜


2分钟淘米


20分钟煮饭


2分钟切菜


5分钟炒菜

27. 红红、美美和青青同时去理发店理发，店里只有一位理发师。给红红理发需要8分钟，给美美理发需要15分钟，给青青理发需要10分钟。要使三人等候时间的总和最少，应该先给(　　)理发，然后给(　　)理发，最后给(　　)理发，三人等候时间总和最少是(　　)分钟。

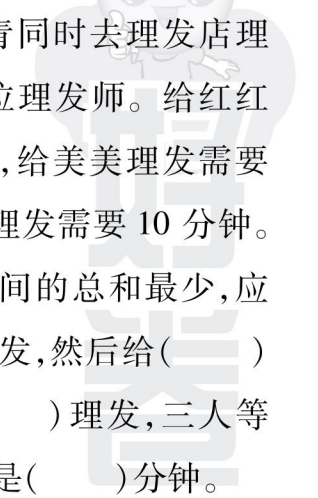

关注微信公众号“教辅资料站”获取更多学习资料

题型突破卷2 选择题

班级_____ 姓名_____ 时间：40分钟

专项1：年、月、日

1. 都在小月的两个节日是(　　)。
   A. 国庆节和建军节
   B. 教师节和儿童节
   C. 植树节和劳动节
   D. 元旦和端午节
2. 如果9月30日是星期五，那么10月1日是(　　)。
   A. 星期六　B. 星期日　C. 星期一
3. 下列年份中，(　　)是闰年。
   A. 1900年　B. 2020年　C. 2018年
4. 爸爸2019年的6月1日到10月18日出差，爸爸共出差(　　)天。
   A. 140　　B. 141　　C. 139
5. 2019年2月1日是星期五，小丽3月4日过生日，这一天是(　　)。
   A. 星期日　B. 星期一　C. 星期二
6. 下面说法正确的是(　　)。
   A. 每年都有365天
   B. 25个月就是2年多5个月
   C. 一年中最多有53个星期日
7. 星月商城开展促销活动，从5月15日开始到5月31日结束。促销活动开展了(　　)天。
   A. 16　　B. 15　　C. 17
8. 每年的八月一日是我国的建军节，它在第(　　)季度。
   A. 二　　B. 三　　C. 四
9. 文明学校举办的首届读书节3月28日开始，为期15天。这届读书节(　　)结束。
   A. 4月12日　　B. 4月11日
   C. 4月13日

专项2：乘法

10. 25×80的积是(　　)。
    A. 200　B. 2000　C. 4000
11. 最大的两位数与22相乘，积是(　　)。
    A. 2078　B. 2178　C. 2278
12. 48×29，若48减少2，积就减少(　　)。
    A. 96　　B. 58　　C. 2
13. □3×11的积最大是(　　)。
    A. 1563　B. 143　　C. 1023
14. 结果比1800大、比2800小的算式是(　　)。
    A. 24×53　　B. 37×65
    C. 76×59
15. 69×□<5600，□里最大可填(　　)。
    A. 80　　B. 81　　C. 82
16. 一个教室有18排座位，每排有22个。400个同学来听课，(　　)坐下。
    A. 能　　B. 不能　C. 无法判断

关注微信公众号“教辅资料站”获取更多学习资料

17. 62×69 的积大约是(　　)。

A. 3600　B. 4200　C. 4900

18. 2 只猫 2 天逮了 2 只老鼠,照这样计算,10 只猫 10 天能逮(　　)只老鼠。

A. 10　B. 50　C. 100

专项 3:吨的认识

19. 下列质量中,最重的是(　　)。

A. 1 克　B. 1 千克　C. 1 吨

20. 轮船的装载量为 800(　　)。

A. 克　B. 千克　C. 吨

21. 1 吨的油与 1 吨的水比较(　　)。

A. 1 吨的水重　B. 1 吨的油重

C. 一样重

22. 1 吨与 50 千克的和是(　　)。

A. 150 千克　B. 1050 千克

C. 60 千克

23. 一头大象重 6 吨,一头牛重 600 千克,一头大象比一头牛重(　　)。

A. 540 千克　B. 5400 千克

C. 5400 吨

24. 2 吨 80 千克比 3 吨少(　　)千克。

A. 9200　B. 920　C. 200

25. 比 4 吨 60 千克重的是(　　)。

A. 4060 千克　B. 4600 千克

C. 460 千克

26. 王叔叔的车上装着 2900 kg 的大米和 6 t 的面粉,车重 2 t。王叔叔的车能通过这座桥吗?你的判断是(　　)。

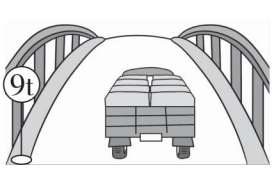

A. 能　B. 不能　C. 无法判断

专项 4:比较

27. 一头象的质量等于 4 头牛的质量,一头牛的质量等于 3 匹小马的质量,一匹小马的质量等于 3 只小猪的质量,一头象的质量等于(　　)只小猪的质量。

A. 12　B. 24　C. 36

28. △△○○○ 13克　△△○ 7克,一个○重(　　)克。

A. 2　B. 3　C. 4

29. 

一个⚽(　　)元。

A. 840　B. 100　C. 50

专项 5:合理安排时间

30. 理发店同时进来三位顾客,甲理发、刮胡子不吹风,乙只刮胡子不理发,丙理发、吹风还刮胡子。店里只有一位理发师,安排一个合理的先后顺序为(　　)。

A. 乙、甲、丙

B. 甲、丙、乙

C. 乙、丙、甲

31. 刘英早晨起来是这样安排的,刷牙、洗脸 3 分钟,淘米 2 分钟,用电饭锅煮饭 18 分钟,背英语单词 12 分钟,吃早饭 8 分钟,结果用了 43 分钟才去上学。若合理安排时间,刘英起床后最短用(　　)分钟就能去上学。

A. 28　B. 40　C. 31

荣德基好卷

关注微信公众号"教辅资料站"获取更多学习资料



题型突破卷3 计算题

班级_____ 姓名_____ 时间：40分钟

专项1：口算

（一）乘法口算

1. $50\times60=$　　$14\times30=$
   $11\times70=$　　$12\times40=$
   $80\times70=$　　$20\times48=$
   $30\times60=$　　$20\times23=$
   $40\times40=$　　$24\times30=$
   $15\times40=$　　$99\times100=$
   $50\times16=$　　$33\times70=$
   $18\times40=$　　$46\times100=$

（二）分数加减法口算

2. $\frac{1}{2}+\frac{1}{2}=$　　$\frac{3}{4}-\frac{1}{4}=$
   $\frac{4}{7}-\frac{3}{7}=$　　$\frac{1}{6}+\frac{2}{6}=$
   $\frac{8}{9}-\frac{4}{9}=$　　$1-\frac{5}{7}=$
   $1-\frac{6}{17}=$　　$\frac{4}{7}-\frac{1}{7}=$
   $\frac{2}{9}+\frac{2}{9}=$　　$1-\frac{3}{8}=$
   $\frac{1}{8}+\frac{2}{8}+\frac{5}{8}=$　　$\frac{5}{7}-\frac{3}{7}+\frac{1}{7}=$
   $1-\frac{4}{9}-\frac{5}{9}=$　　$1-\frac{5}{6}+\frac{1}{6}=$

（三）小数加减法口算

3. $4.7+2.1=$　　$7.3+0.7=$
   $3.5-2.5=$　　$4.5-0.9=$
   $9.8-4.7=$　　$2-0.6=$
   $6.8-6.5=$　　$7.2+2.8=$
   $4-0.5=$　　$10-5.4=$
   $2+0.3=$　　$8.8-3.8=$
   $7.2-0.2=$　　$6+1.7=$
   $3+4.5=$　　$8.5+0.4=$

专项2：口算的变式练习

（一）分数口算

4. $\frac{3}{8}+(\quad)=\frac{5}{8}$
   $(\quad)+\frac{3}{7}=1$
   $\frac{4}{10}+(\quad)=\frac{9}{10}$
   $\frac{2}{9}+(\quad)+\frac{3}{9}=\frac{7}{9}$
   $1-(\quad)=\frac{1}{5}$
   $\frac{7}{9}-(\quad)=\frac{5}{9}$
   $\frac{6}{7}-(\quad)=\frac{3}{7}$
   $1-(\quad)-\frac{1}{8}=\frac{3}{8}$

（二）小数口算

5. $4.2+(\quad)=4.9$
   $1-(\quad)=0.6$
   $7.8+(\quad)=9.4$
   $(\quad)-3.6=1.8$
   $(\quad)+0.4=1$
   $1-(\quad)=0.2$
   $1-(\quad)=0.3$
   $1.8-(\quad)=1$

荣德基好卷

关注微信公众号“教辅资料站”获取更多学习资料

专项3：估算

6. 想一想，写出得数。

28 × 19 ≈　　31 × 21 ≈

42 × 59 ≈　　13 × 28 ≈

68 × 12 ≈　　41 × 79 ≈

99 × 19 ≈　　29 × 62 ≈

7. 估计算式结果并连线。

40 × 19　　积大于 3000 且小于 4200

71 × 58　　积大于 600 且小于 1200

26 × 34　　积大于 3500 且小于 4800

55 × 63　　积大于 400 且小于 800

专项4：用竖式计算

（一）乘法

8. 43 × 12 =　　26 × 50 =

47 × 39 =　　18 × 65 =

76 × 25 =　　87 × 30 =

（二）小数加减法

9. 7.1 + 5.8 =　　6.5 + 4.9 =

5.4 − 2.3 =　　10.3 − 6.7 =

11 − 3.9 =　　16.3 + 4.4 =

专项5：脱式计算

（一）同级运算

10. 36 × 12 ÷ 8　　48 ÷ 3 × 82

58 × (480 ÷ 6)　　47 × 32 ÷ 4

（二）混合运算

11. 42 × (160 − 85)

1000 − 36 × 24

348 ÷ 6 + 356

(18 + 27) × 56

1850 + 47 × 35

荣德基好卷

关注微信公众号“教辅资料站”获取更多学习资料

题型突破卷4 图形题

班级_____ 姓名_____ 时间：40分钟

专项1：图形面积的计算

（一）简单图形面积的计算

1. 填写下表。

	长	宽	周长	面积
长方形	17 m	11 m		
		8 cm		248 cm^2
正方形	边长 11 cm			
			24 cm	

（二）组合图形面积的计算

2. 计算下面图形的面积。

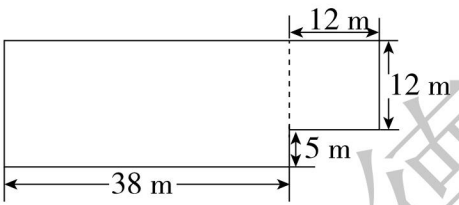

专项2：图形的面积在生活中的应用

3. 一个房间地面长 15 米，宽 6 米，用面积为 9 平方分米的方砖铺满地面，共需要这样的方砖多少块？如果每块方砖 5 元，铺满地面需要多少元？

4. 看对话，回答问题。



5. 李伯伯贴着墙用三段篱笆围了一块正方形菜地，共用篱笆 75 米。这块菜地的面积是多少平方米？

6. 从一张长 20 厘米、宽 15 厘米的长方形彩纸上剪下一个长 15 厘米、宽 3 厘米的长方形，剩下的彩纸的周长和面积各是多少？（选择一种你最喜欢的剪法，先画出示意图，再解答）

荣德基好卷
关注微信公众号“教辅资料站”获取更多学习资料

专项3：辨别方向

7. 观察下图，并填一填。

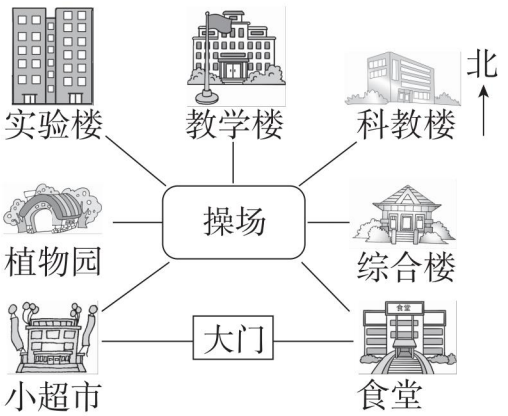

（1）植物园在操场的（　　）面，科教楼在操场的（　　）方向。

（2）操场在综合楼的（　　）面，在实验楼的（　　）方向。

（3）小超市在操场的（　　）方向，操场在小超市的（　　）方向。

（4）操场的东南方向是（　　），西北方向是（　　）。

（5）我还知道（　　）在（　　）的（　　）方向。

8. 请你根据描述来给这些学生找家，并在相应的方框里填上是谁的家。

小梦家在学校的东北方向，小蕾家在学校的正东方向，学校的正北方向是小兰家，正西方向是小丽家，正南方向是小豪家，小明家在学校的西南方向，小军家和小刚家分别在学校的西北方向和东南方向。

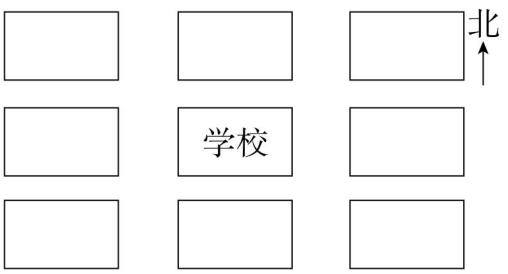

专项4：整理数据

9. 下面是一家餐厅一周内各外卖平台的订餐数量统计情况。

外卖平台	美团外卖	百度外卖	饿了么	口碑外卖	派乐趣外卖
数量/份	230	170	200	120	90

（1）（　　）订餐数量最多，（　　）订餐数量最少。

（2）一周内这家餐厅通过外卖平台一共订餐（　　）份。

（3）一周内美团外卖比百度外卖多订餐（　　）份。

（4）如果你是这家餐厅的老板，要选择一家外卖平台长期合作，你会选择哪个平台？为什么？

10. 张彤、李佳、王芳、郭芳芳4名同学的1分钟跳绳成绩依次为128下、159下、170下、165下。

（1）请你根据上面的信息把表格补充完整。

姓名	张彤	李佳	王芳	郭芳芳
成绩/下				

（2）成绩最好的同学是（　　），跳了（　　）下，她比成绩最差的同学多跳了（　　）下。

（3）如果从中选择两名同学去参加学校的跳绳比赛，你认为应该选择（　　）和（　　）。

荣德基好卷

关注微信公众号“教辅资料站”获取更多学习资料

题型突破卷5 应用题

班级_____ 姓名_____ 时间：40分钟

专项1：用估算的方法解决问题

1. 这台电视机大约多少钱？



热水壶
298元

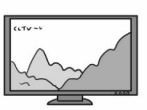

电视机的价钱
是热水壶的51倍

2. 老师让同学们写一篇不少于600字的作文。小红写好后数了数，每行有28字，共有19行。请你帮小红估一估她写的字数够吗？

专项2：用连乘的方法解决问题

3. 阅览室有5个书架，每个书架有3层，每层可以放40本书。这些书架一共能放多少本书？

4. 商店运来38箱果汁，每箱都有24瓶，每瓶卖4元钱，这些果汁一共可以卖多少钱？

专项3：用连除的方法解决问题

5. 学校教学楼共有4层，每层有8间教室，学校共有1440张桌子。平均每间教室安排多少张桌子？

6. 食品厂做了960个面包，每5个放一袋，每6袋装一箱。能装多少箱？

荣德基好卷

关注微信公众号“教辅资料站”获取更多学习资料

专项4：归一问题

7. 看图列式解答。

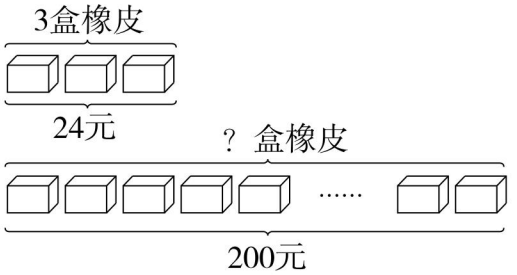

8. 笑笑用电脑写日记，4 分钟能打 324 个字。照这样的速度计算，她 1 小时能打多少个字？

专项5：归总问题

9. 绿化队植树造林，计划每天栽树 84 棵，12 天完成任务，结果 9 天就完成了。实际平均每天栽树多少棵？

10. 为了丰富学生的课余生活，学校准备拿出一笔钱购买篮球或跳绳。

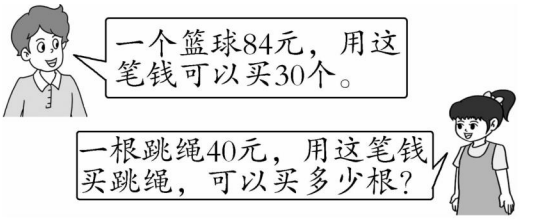

专项6：分数、小数应用问题

11. 新华书店购进一批书，上午卖出这批书总数的$\frac{4}{9}$，下午和上午卖出的同样多。这批书还剩总数的几分之几没有卖出？

12. 妈妈买一双鞋和一件上衣要付多少钱？



未德基好卷

关注微信公众号“教辅资料站”获取更多学习资料

参考答案及点拨（小卷）

周测培优卷 1

认识年、月、日和区分平年、闰年

一、1. 12　31　30　7　4　2. 年　365　366
3. 7　8　12　1　4. 4　2020　5. 366　28
6. 50　7. 8
8. 五　[点拨]（1）列表法：

一	二	三	四	五	六	日
				1	2	3
4	5	6	7	8	9	10
11	12	13	14	15	16	17
18	19	20	21	22	23	24
25	26	27	28	1		

（2）计算法：2019 年是平年，2 月有 28 天。28 ÷ 7 = 4（周），因为 2 月 1 日是星期五，所以 2 月 28 日是星期四，那么 3 月 1 日就是星期五。

二、1. ×　[点拨] 2 月既不是大月，也不是小月。
2. ×　[点拨] 4 月是小月，只有 30 天。
3. √
4. ×　[点拨] 大月包括 1、3、5、7、8、10、12 月；小月包括 4、6、9、11 月；2 月既不是大月，也不是小月。
5. ×　[点拨] 公历年份是整百数的，必须是 400 的倍数，才是闰年。比如 1900 年是平年，2000 年是闰年。正所谓“百年不闰，四百年又闰”。

三、1. A　2. B　3. A　4. B

四、

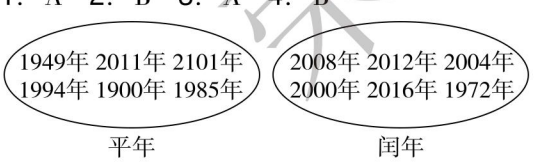

五、

日	一	二	三	四	五	六
			1	2	3	4
5	6	7	8	9	10	11
12	13	14	15	16	17	18
19	20	21	22	23	24	25
26	27	28	29	30	31	

夏令营开始　夏令营结束

1. 4　5　2. 日　六　7　3. 4　3

六、1. 2 月：28 − 25 + 1 = 4（天）　3 月：16 天
4 + 16 = 20（天）
答：阳光小学第十三届科技节活动一共持续了 20 天。
2. 18 − 13 + 1 = 6（天）> 5（天）
答：这块蛋糕不能吃了。
3. 答：这辆小汽车 2022 年开始必须进行检验。
4. 31 + 30 + 31 = 92（天）
8 × 92 = 736（吨）
答：这个工厂第四季度一共烧煤 736 吨。
[点拨] 第四季度包括 10 月（31 天）、11 月（30 天）和 12 月（31 天），共 92 天。

周测培优卷 2

两位数乘两位数的计算

一、18　2　18　10　18　12
二、1. 972　1000　2. 四　千　3. 23　3　2
4. 3000　2100
[点拨] 58 × 49 ≈ 60 × 50 = 3000，72 × 31 ≈ 70 × 30 = 2100。
5. 1500
6. 4　[点拨] 要使 □2 × 26 的积是四位数，□ 里可以填 4、5、6、7、8、9，但是题目问的是最小填几，所以只能填 4。

三、1. √　2. ×　3. √　4. √　5. √

四、1. B　2. B　3. B
4. B　[点拨] 38 × 29，若 38 减少 2，积就减少 2 个 29，所以积减少 58。
5. C

五、1. 1120　640　3000　2800
3500　700　350　2880
2. 32 × 11 = 352　　69 × 24 = 1656

```
  3 2          6 9
× 1 1        × 2 4
-----        -----
  3 2          2 7 6
+ 3 2        + 1 3 8
-----        -----
  3 5 2        1 6 5 6
```

48 × 25 = 1200　　57 × 60 = 3420

```
  4 8          5 7
× 2 5        × 6 0
-----        -----
  2 4 0        3 4 2 0
+ 9 6
-----
1 2 0 0
```

3. 164 + 38 × 27　　(204 − 125) × 52
= 164 + 1026　　= 79 × 52
= 1190　　= 4108

六、

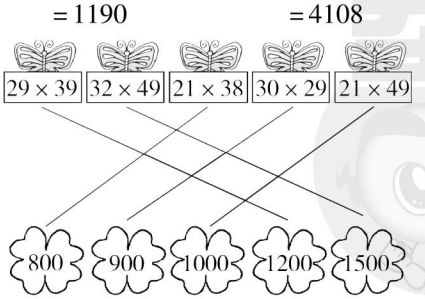

关注微信公众号“教辅资料站”获取更多学习资料

七、1. 14×12=168(吨)
答:一只蓝鲸体重168吨。
2. 29×25≈750(元)
答:大约要用750元。
3. 56×22=1232(元)
1232−56=1176(元)
答:一部手机比一个收音机贵1176元。
[点拨] 求一部手机比一个收音机贵多少元,要先求出一部手机的价钱。根据一部手机的价钱是一个收音机价钱的22倍,可以求出一部手机的价钱,列式为56×22=1232(元),再求一部手机比一个收音机贵多少元,列式为1232−56=1176(元)。
4. 25×18−350=100(千克)
答:还剩100千克。

周测培优卷3

吨的认识及吨与千克之间的换算

一、1. 吨 t 千克 克 2. 7 3. 180000
4. 2000 9 8 4000 3 700 6 2 900 6
5. = < > < > >
6. 3200千克 3吨 3200克 3千克
7. 2 25 10 20
二、1. × 2. √ 3. × 4. ×
5. × [点拨] 1000千克=1吨,所以1000千克的铁和1吨的棉花一样重。
三、t kg kg kg g kg
[点拨] 计量较重物品或大型物品的质量时用吨做单位;计量一般物品的质量时用千克做单位;计量较轻物品的质量时用克做单位。
四、1. C [点拨] 1吨=1000千克,1000÷5=200(个)。
2. A [点拨] 1千克=1000克,1000−950=50(克)。
3. B 4. C
五、



六、300g(√) 4kg(√) 1t(√) 4t(√)
七、1. 2千克=2000克
2000−200=1800(克)
1800÷3=600(克)
答:每份是600克。
2. 5吨=5000千克
900+1200=2100(千克)
5000−2100=2900(千克)
或5000−900=4100(千克)
4100−1200=2900(千克)
答:商店里还剩下2900千克盐。
3. 5×3=15(吨)
15×4=60(吨)
60<70 不能
或5×4=20(吨)
20×3=60(吨)
60<70 不能
或3×4=12(次)
5×12=60(吨)
60<70 不能
答:用4辆这样的货车3次不能运完70吨苹果。
4.

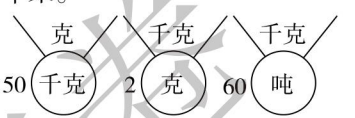

周测培优卷4

用两步计算解决实际问题

一、2400 420 70 4700 5400 480 8000 900 65 1800 0 68 900 200
二、1. 4 2. 560 3. 70 4. 4000 5. 1600 6. 600
7. 192 [点拨] 先算一瓶果汁多少钱,列式为108÷9=12(元),再算一共花了多少钱,列式为12×(9+7)=192(元)。
三、1. A [点拨] 先算1000÷25=40(元),要想1000元能买25个同样的篮球,只能买单价不超过40元的篮球,所以选A。
2. A 3. C 4. A 5. A B
四、
498÷6×34
=83×34
=2822

712−15×28
=712−420
=292

(268+304)÷4
=572÷4
=143

53×(124−76)
=53×48
=2544

五、1. 5×4×6=120(盆)
答:一共放了120盆花。
2. 432÷9÷4=12(元)
答:每本故事书12元。
3. 140×4÷5=112(千米)
4. 240÷3=80(个) 80×30=2400(个)
2400>2300 能
或30÷3=10 240×10=2400(个)
2400>2300 能
答:半小时能完成任务。

关注微信公众号"教辅资料站"获取更多学习资料

5. 9×40=360(元)　360÷8=45(千克)
答:现在可以买45千克。
[点拨] 要想求价格下调后可以买多少千克鸡蛋,要先知道一共有多少钱,根据原来计划买40千克、原价9元/千克这两个信息,可以求出一共有多少钱,列式为9×40=360(元),再用360元除以现在的价钱求出现在可以买多少千克鸡蛋,列式为360÷8=45(千克)。

周测培优卷5

长方形和正方形的面积和面积单位

一、1. 平方米　平方分米　平方厘米
2. (1)米　(2)米　米　(3)平方厘米　(4)平方分米　(5)平方米　(6)平方米
3. 48　4. 28　49

二、1. ×
2. ×　[点拨] 周长和面积是不同的概念,本身没有可比性。
3. ×　4. √
5. ×　[点拨] 当长方形的周长一定时,长和宽越接近,面积越大。

三、1. C　2. A　3. A　4. B
5. B　[点拨] 要想求长方形的面积,要先求出长方形的宽,根据长是15厘米、长是宽的3倍,求出长方形的宽,列式为15÷3=5(厘米),再根据长是15厘米,宽是5厘米,求出长方形的面积,列式为15×5=75(平方厘米)。
6. A

四、1. 11　12.5
2. 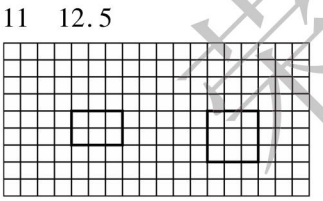
[点拨] 长方形的画法不唯一。

五、1. 周长:(30+16)×2=92(厘米)
面积:30×16=480(平方厘米)
2. 周长:8×4=32(分米)
面积:8×8=64(平方分米)

六、1. 28×15=420(平方米)
答:这个篮球场的面积是420平方米。
2. 12×5=60(平方米)　60×3=180(棵)
答:这块长方形地可以栽180棵树苗。
3. 3×3=9(平方米)　250×9=2250(克)
答:刷这块广告牌需2250克立邦漆。
[点拨] 要想求刷这块广告牌需多少克立邦漆,要先求出这块广告牌的面积,列式为3×3=9(平方米),再根据每平方米需250克立邦漆,就可以求出刷这块广告牌需多少克立邦漆,列式为250×9=2250(克)。
4. 24×16=384(平方米)　4×4=16(平方米)
384−16=368(平方米)
答:草坪的面积是368平方米。
[点拨] 要想求出草坪的面积,要先求出大长方形的面积和升旗台的面积,大长方形的面积为24×16=384(平方米),升旗台的面积为4×4=16(平方米),再用大长方形的面积减去升旗台的面积就是草坪的面积,列式为384−16=368(平方米)。

周测培优卷6

长方形和正方形的面积的综合运用

一、1. 100　1　2. 100
3. 1　1　10　10　100　100　100　10000
4. 700　32　400　3　7　1500　200　20000
5. >　<　>　=

二、1. ×　2. ×　3. √
4. ×　[点拨] 长是8米,宽是10分米,单位不统一,需要统一单位后再计算布料的面积。

三、1. C　[点拨] 把两个边长20dm的正方形拼成一个长方形,拼成的长方形的长是40dm,宽是20dm,面积是40×20=800(dm^2),800 dm^2=8 m^2,所以选C。
2. B　[点拨] 根据这个教室地面的长和宽,可以求出教室地面的面积,列式为9×6=54(平方米),54平方米=5400平方分米;再根据用边长3分米的正方形瓷砖铺地这一信息,可以求出一块瓷砖的面积,列式为3×3=9(平方分米);最后再求需要瓷砖的块数,列式为5400÷9=600(块),所以选B。
3. A　[点拨] 用8分米长的铁丝围成一个正方形,这8分米实际上是这个正方形的周长,根据这一信息,可以先求出正方形的边长,列式为8÷4=2(分米),知道正方形的边长,就可以求正方形的面积了,列式为2×2=4(平方分米),所以选A。
4. B　[点拨] 从一张长12厘米,宽8厘米的长方形彩纸上剪下一个最大的正方形,这个正方形的边长是8厘米,知道了正方形的边长,就可以求正方形的面积了,列式为8×8=64(平方厘米),所以选B。

关注微信公众号"教辅资料站"获取更多学习资料

四、

长/cm	宽/cm	周长/cm	面积/cm^2
8	1	18	8
7	2	18	14
6	3	18	18
5	4	18	20

我发现：当长方形的周长一定时，长和宽越接近，面积越大。

五、1. $90\times40=3600$（平方分米）

3600 平方分米 = 36 平方米

答：这块草地的面积大约是 3600 平方分米，合 36 平方米。

2.（1）$80\times80=6400$（平方厘米）

6400 平方厘米 = 64 平方分米

答：它的面积是 6400 平方厘米，合 64 平方分米。

（2）$80\times4=320$（厘米）

320 厘米 = 32 分米

答：共需要花边 320 厘米，合 32 分米。

3.（1）$2\times2\times300=1200$（平方分米）

1200 平方分米 = 12 平方米

答：这个厨房的面积是 1200 平方分米，合 12 平方米。

（2）$1200\div(2\times3)=200$（块）

答：方案二需要 200 块地砖。

（3）$300\times3=900$（元）　$200\times4=800$（元）

$800<900$

答：方案二比较便宜。

4.（1）$32\div4=8$（米）　$8\times8=64$（平方米）

答：如果不靠墙围，围成边长是 8 米的正方形面积最大，面积最大是 64 平方米。

（2）$32\div2=16$（米）

$16\times16=256$（平方米）

答：如果两边靠墙，围成边长是 16 米的正方形面积最大，面积最大是 256 平方米。

（3）$32\div2=16$（米）　$16\div2=8$（米）

$16\times8=128$（平方米）

答：如果一边靠墙，围成长是 16 米，宽是 8 米的长方形面积最大，面积最大是 128 平方米。

周测培优卷 7

分数的意义及分数大小比较

一、$\frac{1}{2}$　$\frac{1}{3}$　$\frac{3}{5}$　$\frac{4}{9}$　$\frac{5}{6}$　$\frac{3}{7}$

二、1. 五分之三　2. $\frac{1}{4}$　$\frac{3}{4}$

3. $\frac{2}{7}$　4. $\frac{1}{10}$　$\frac{3}{10}$　$\frac{8}{10}$

5. 2　5　$\frac{7}{7}$（最后一空答案不唯一）

6. $\frac{1}{8}$

7. $\frac{5}{9}$　$\frac{4}{9}$　$\frac{3}{9}$　$\frac{7}{10}$

［点拨］答案不唯一。

三、1. ×　［点拨］把一个桃平均分成 5 份，每份才是它的$\frac{1}{5}$。

2. √　3. ×　4. ×

四、1. C　2. B　3. C　4. A　5. B

五、1.（1）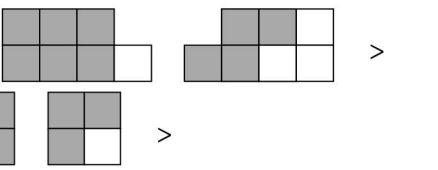

（第 1，2，4 个图涂法不唯一）

（2）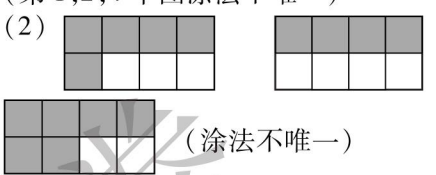

（涂法不唯一）

$\frac{4}{8}<\frac{5}{8}<\frac{6}{8}$

2. <　<　>　>　=　>　>　>　<　<

3.（1）$\frac{1}{10}<\frac{1}{6}<\frac{1}{4}<\frac{2}{4}$

（2）$\frac{2}{9}<\frac{2}{7}<\frac{5}{7}<1$

4.（1）错

√

（2）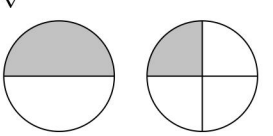

$\frac{1}{2}>\frac{1}{4}$

六、1. $\frac{1}{6}$　4　2.（1）$\frac{1}{4}$　$\frac{1}{2}$　（2）④⑥⑦

周测培优卷 8

同分母分数加减法

一、1. 5　5　$\frac{2}{6}+\frac{3}{6}=\frac{5}{6}$　（涂一涂略）

2. 1　1　$1-\frac{5}{6}=\frac{1}{6}$

3. 1　$\frac{1}{4}$　$\frac{3}{4}-\frac{2}{4}=\frac{1}{4}$

二、$\frac{4}{6}$　$\frac{3}{4}$　$\frac{3}{7}$　$\frac{6}{9}$　$\frac{4}{8}$　$\frac{3}{5}$　1　0　$\frac{6}{10}$

$\frac{6}{9}$　$\frac{1}{6}$　0　$\frac{2}{8}$　$\frac{4}{10}$

三、1. $\frac{3}{7}$　2. $\frac{3}{6}$　3. $\frac{2}{8}$　4. $\frac{7}{9}$　5. 1

四、1. ×　［点拨］5 个$\frac{1}{5}$是 1，8 个$\frac{1}{8}$也是 1，应该是相等的。

关注微信公众号“教辅资料站”获取更多学习资料

2. √

3. × [点拨] 同分母分数相加，分母不变，分子相加，$\frac{4}{9}+\frac{5}{9}=\frac{9}{9}=1$。

4. × [点拨] 没有说这两个杯子大小一样。

5. √

五、> = > < > >

六、$\frac{1}{4}+\frac{2}{4}=\frac{3}{4}$　$\frac{3}{8}+\frac{2}{8}=\frac{5}{8}$　$\frac{7}{9}-\frac{4}{9}=\frac{3}{9}$

七、1. $1-\frac{3}{7}=\frac{4}{7}$　答：还剩下这本书的$\frac{4}{7}$没读。

2. $1-\frac{2}{6}=\frac{4}{6}$

答：她还要擦$\frac{4}{6}$才能全部擦完。

3. $1-\frac{2}{9}-\frac{3}{9}=\frac{4}{9}$

或$\frac{2}{9}+\frac{3}{9}=\frac{5}{9}$　$1-\frac{5}{9}=\frac{4}{9}$

答：种植茄子的面积占这块菜地的$\frac{4}{9}$。

4. (1) $\frac{1}{8}+\frac{2}{8}=\frac{3}{8}$

答：第二天看了全书的$\frac{3}{8}$。

(2) $1-\frac{2}{8}-\frac{3}{8}=\frac{3}{8}$

答：第三天看了全书的$\frac{3}{8}$。

周测培优卷 9

小数的认识及一位小数加减法的计算

一、0.5　0.7　1.3

二、1. 7　9　$\frac{3}{10}$　$\frac{7}{10}$　$\frac{9}{10}$　0.3　0.7　0.9　0.8　1.4　1.9　2.7

2. 28.9元　1.5元　8.5元　6.8元　1.5元　6.8元　8.5元　28.9元

[点拨] 用小数表示商品的价格，一定要有单位名称“元”。

3. 0.8　4. 5　3　5. 3　9

6. 9.6　4.5　4　0.6　3.6　3.6

7. <　>　>　>　>　<

三、1. × [点拨] 不是所有的小数都比整数小。如：1.2>1，2.1>2等。

2. √　3. ×　4. ×

四、1. B　2. A　3. A　4. B

五、1. 0.9　5　9.9　4.5　8.2　2　11.5　10　8　3.7　3.3　6.2

2. 8.8+1.7=10.5　9.5+6.5=16

$$\begin{array}{r} 8.8 \\ +\ 1.7 \\ \hline 10.5 \end{array}\qquad \begin{array}{r} 9.5 \\ +\ 6.5 \\ \hline 16.0 \end{array}$$

14.3−9.9=4.4　8−3.4=4.6

$$\begin{array}{r} 14.3 \\ -\ 9.9 \\ \hline 4.4 \end{array}\qquad \begin{array}{r} 8.0 \\ -\ 3.4 \\ \hline 4.6 \end{array}$$

六、1. 8.3+9.5=17.8(元)

20−17.8=2.2(元)

答：应该找回2.2元。

2. 98.2−20−39.6=38.6(元)

答：她家这个月的上网费是38.6元。

3. (1) 51.4−37.8=13.6(元)

答：一架玩具飞机比一个玩具熊贵13.6元。

(2) 37.8+39.9=77.7(元)

答：最少花77.7元。

[点拨] 要求最少花多少钱，就要买两个最便宜的玩具。

(3) 51.4+39.9=91.3(元)　100>91.3

答：张丽带100元够。

周测培优卷 10

方向的辨认和应用

一、1. 北　南　西　东

2. 北方　南方　西方

3.



4. 正南　正西　东南　正北　正东　西北

二、1. B　2. A　3. C

三、1~2

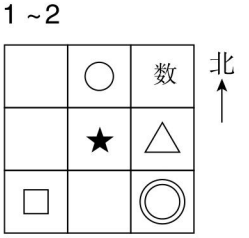

3. 东南　西北

四、1. 东　北　2. 西南　东北

3. 人民桥　医院　体育馆

4. 汽车站　火车站　东北(答案不唯一)

荣德基好卷

关注微信公众号“教辅资料站”获取更多学习资料

五、1. 西北　西南　2. 东北
3. 东南　小海州(答案不唯一)
4. 梅林　竹园

六、

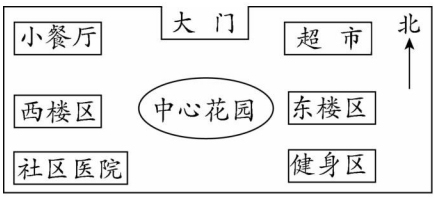

七、1. 北　2. 西　3. 东南
4. 十七孔桥(答案不唯一)

周测培优卷 11

用统计表分段整理数据

一、$\frac{3}{4}$　$\frac{3}{7}$　$\frac{1}{3}$　$\frac{2}{5}$　$\frac{2}{8}$　$\frac{5}{6}$
$\frac{4}{5}$　$\frac{2}{9}$　0　1　$\frac{2}{7}$　$\frac{9}{10}$
0.6　0.3　3.9　0.5　9　0
8.8　6.2　10　0.3

二、1. 5　18　10　3
2. 36　3. 23　90～99
4. 89分以下的同学应加强口算练习。
[点拨] 答案不唯一。

三、1. 76　12　21　7　28　8
2. (1) 画正字　(2) 76
(3) 坐电动车　乘公交车
3. 多乘公交车,少坐私家车。
[点拨] 答案不唯一。

四、1.

种类	苹果	桃子	葡萄	西瓜	梨
人数	4	4	7	11	2

2. 西瓜　3. 西瓜　葡萄
4. 一共调查了多少人?
4+4+7+11+2=28(人)
答:一共调查了28人。
(答案不唯一)

五、1. 3　19　5　3
2. 30　3. 良

周测培优卷 12

比较及合理安排时间

一、1. 3　5　2. 3　4　3. 2　4. 1000　70
5. 500　60　6. 2

二、600　1000　4000　100
2400　0　1000　60　7.5　1.6
$\frac{6}{7}$　$\frac{2}{9}$

三、
$39\times11+86$
$=429+86$
$=515$

$864\div(73-65)$
$=864\div8$
$=108$

$(27+48)\times32$
$=75\times32$
$=2400$

四、1.

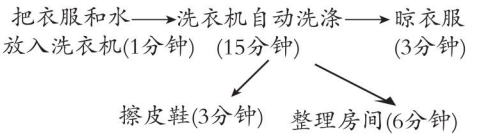

1+15+3=19(分钟)
答:姐姐最少要19分钟才可以出发。
[点拨] 洗衣机自动洗涤的同时,可以擦皮鞋和整理房间。

2. 烙3张饼,最短需要9分钟。
可画图表示:正正 3分钟　正反 3分钟　反反 3分钟
烙5张饼,最短需要6+9=15(分钟)。
答:烙3张饼,最短需要9分钟。烙5张饼,最短需要15分钟。

3. (1450−1150)÷(6−4)=150(元)
答:一个篮球150元。

4. 顺序:丙→乙→甲
20×3+30×2+40=160(分钟)
答:按照顺序:丙→乙→甲,这样三位病人所花时间的总和最少,最少是160分钟。

5. 6×2=12(克)　12÷3=4(克)
4×4=16(克)
答:最大的球有16克。

期末总复习

专项提升卷 1　两位数乘两位数的笔算、估算及实际应用

1.
$$\begin{array}{r} 47 \\ \times\ 26 \\ \hline 282 \\ 94 \\ \hline 1222 \end{array}$$

2.
$$\begin{array}{r} 36\times38= \\ 36 \\ \times\ 38 \\ \hline 288 \\ 108 \\ \hline 1368 \end{array}$$

$$\begin{array}{r} 29\times53=1537 \\ 29 \\ \times\ 53 \\ \hline 87 \\ 145 \\ \hline 1537 \end{array}$$

$$\begin{array}{r} 89\times46=4094 \\ 89 \\ \times\ 46 \\ \hline 534 \\ 356 \\ \hline 4094 \end{array}$$

$$\begin{array}{r} 45\times16=720 \\ 45 \\ \times\ 16 \\ \hline 270 \\ 45 \\ \hline 720 \end{array}$$

3. 286　517　935　803　418　759　462　1078
[点拨] 规则:两边一拉,中间一加。

4. (1) B　(2) A

关注微信公众号"教辅资料站"获取更多学习资料

5. $53\times40=2120$　$66\times80=5280$

$$\begin{array}{r} 53 \\ \times\ 40 \\ \hline 2120 \end{array}\qquad \begin{array}{r} 66 \\ \times\ 80 \\ \hline 5280 \end{array}$$

6. 芳芳

7. $22\times19\approx440$（个）

$\downarrow$

20

$440<450$

答：一页稿纸不能写下450个字的作文。

8. $72\times48\approx3500$（米）

$\downarrow\quad\downarrow$

$70\quad50$

答：他们大约走了3500米。

9. $36\times28=1008$（元）　$1008>1000$

答：他准备了1000元钱，不够。

10. $24\times21=504$（瓶）　$504>450$

答：准备21箱够。

11. $45\times2=90$（元）　$35\times27=945$（元）

$90+945=1035$（元）

答：买门票要付1035元。

［点拨］老师要买成人票，学生要买儿童票。

12. （1）$63\times30=1890$（元）

答：四月份缴纳电费1890元。

（2）$82\times30-75\times31=135$（元）

答：六月份比五月份多缴纳电费135元。

期末总复习

专项提升卷2　分数和小数的综合应用

1. （1）×　［点拨］没有说是平均分。

（2）×

（3）×　［点拨］没有说是平均分。

（4）√　（5）√

2. （1）B　（2）C　（3）C

3. $\frac{1}{2}$　$\frac{1}{4}$　$\frac{1}{8}$　　$\frac{1}{2}>\frac{1}{4}>\frac{1}{8}$

4. >　<　>　>　=　<　<

5. （1）4.7　（2）6.3

（3）0.9　0.8

（4）0.5　0.6　0.7

［点拨］（1）题、（4）题答案不唯一。

6. $\frac{3}{5}$　$\frac{1}{6}$　$\frac{2}{7}$　$\frac{7}{9}$　$\frac{5}{9}$　$\frac{9}{10}$

$\frac{7}{8}$　$\frac{4}{7}$　$\frac{5}{6}$　$\frac{7}{10}$　$\frac{1}{7}$

7. $\frac{2}{4}$　3　1　1　2　3　3　1　4

［点拨］除第1个、第4个和第7个空以外，其余空答案不唯一。

8.
$$\begin{array}{r} 3.5 \\ -\ 2.8 \\ \hline 0.7 \end{array}$$

9. $22.5+0.8=23.3$　$32.3+2.7=35$

$$\begin{array}{r} 22.5 \\ +\ \ 0.8 \\ \hline 23.3 \end{array}\qquad \begin{array}{r} 32.3 \\ +\ \ 2.7 \\ \hline 35\backslash\!\backslash0 \end{array}$$

$9.2-1.6=7.6$　$11.5-7.5=4$

$$\begin{array}{r} 9.2 \\ -\ 1.6 \\ \hline 7.6 \end{array}\qquad \begin{array}{r} 11.5 \\ -\ \ 7.5 \\ \hline 4\backslash\!\backslash0 \end{array}$$

10. $\frac{2}{8}$

［点拨］把阴影部分都平移到整个长方形的右侧，再观察。

11.
$$\begin{array}{r} 9.\boxed{6} \\ -\ \boxed{6}.2 \\ \hline 3.4 \end{array}\qquad \begin{array}{r} 8.\boxed{1} \\ -\ \boxed{5}.3 \\ \hline 2.8 \end{array}$$

12. $\frac{3}{11}+\frac{2}{11}+\frac{3}{11}=\frac{8}{11}$（千米）

答：从小明家到图书馆有$\frac{8}{11}$千米。

13. $1-\frac{1}{5}-\frac{2}{5}=\frac{2}{5}$

答：小华吃了这个蛋糕的$\frac{2}{5}$。

14. $0.4+0.4=0.8$（千米）

答：今天她比平时去学校多走了0.8千米。

期末总复习

专项提升卷3　面积的单位、计算及应用

1. （1）米　（2）平方米　（3）平方分米

（4）平方厘米　（5）平方分米

2. 2　80　600　1400　100　1

3. >　=　<　=　=

4. $5\times5=25$（平方厘米）　$8\times4=32$（平方厘米）

5. （1）16平方米

［点拨］要先求出正方形水池的边长，才能再求正方形水池的占地面积。

（2）72　（3）36　72

（4）1089

［点拨］先看一条边上有几个3分米，列式为：10米=100分米，$100\div3=33$（个）……1（分米），所以一条边上有33个3分米，然后再求最多能裁成多少个边长是3分米的小正方形，列式为：$33\times33=1089$（个）。

（5）3　16

［点拨］示意图如图：

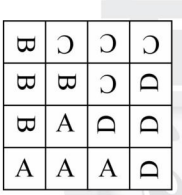

6. $15\times15=225$（平方米）　$5\times5=25$（平方米）

$225-25=200$（平方米）

答：需要200平方米的草坪。

关注微信公众号“教辅资料站”获取更多学习资料

7. $8\times6=48$(平方米)　$18\times48=864$(千克)
答:李爷爷可以收获 864 千克白菜。
8. $40\times28=1120$(平方米)
$40\times1=40$(平方米)
$28\times1=28$(平方米)　$1\times1=1$(平方米)
$1120-40-28+1=1053$(平方米)
答:这块菜地能种菜的面积是 1053 平方米。
[点拨] 方法不唯一。
9.

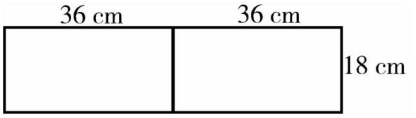

周长:$(36+36+18)\times2=180$(cm)
面积:$(36+36)\times18=1296$(cm^2)
答:大长方形的周长是 180 cm,面积是 1296 cm^2。

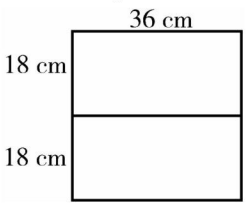

周长:$36\times4=144$(cm)
面积:$36\times36=1296$(cm^2)
答:正方形的周长是 144 cm,面积是 1296 cm^2。
10. 有两种情况:

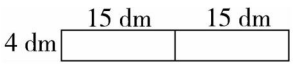

面积:$15\times2=30$(dm)　$30\times4=120$(dm^2)
周长:$(30+4)\times2=68$(dm)
答:需要一块 120 dm^2 的玻璃板,需要 68 dm 的胶条。

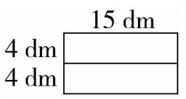

面积:$4\times2=8$(dm)　$15\times8=120$(dm^2)
周长:$(15+8)\times2=46$(dm)
答:需要一块 120 dm^2 的玻璃板,需要 46 dm 的胶条。
[点拨] 两种情况都要画图后再解答。

期末总复习

专项提升卷 4　单位换算和方向的实际应用

1. (1) 5　31
(2) 9　10　6　1　5　1　1　1　7　1
2. (1) C　(2) B　(3) C
3.

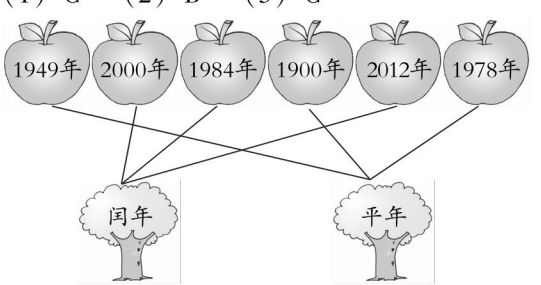

4. 3 月 26 日到 4 月 3 日,共 9 天。
$828\div9=92$(个)
答:平均每天生产 92 个玩具。
5. 2019 年有 365 天。
$365\div7=52$(个)……1(天)
答:2019 年的最后一天是星期二。
2020 年 1 月 1 日是星期三。
2020 年有 366 天。
$366\div7=52$(个)……2(天)
答:2020 年的最后一天是星期四。
6. (1) 吨　(2) 克　(3) 千克　(4) 吨
7. 4 kg　1000 g　25 kg
√　√　√
8. 1000　5000　8　1300
4　800　5020　2500　8020
9. <　<　>　>　>　=
10. $250\times2=500$(千克)
$500\times6=3000$(千克)　3000 千克 = 3 吨
答:1 头大象的体重是 3000 千克,合 3 吨。
11. 1000 千克 = 1 吨
$5+1=6$(吨)　$(5+6)\times4=44$(元)
答:她家这两个月一共交水费 44 元。
12. 西南　东北
13.

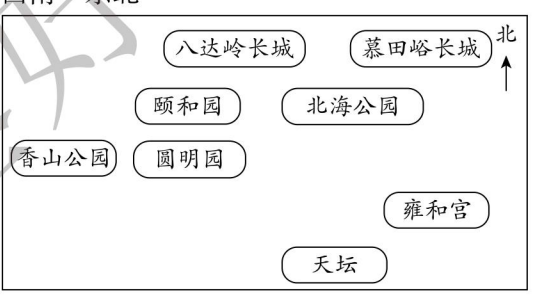

期末总复习

题型突破卷 1　填空题

1. 12　365　366　2. 52　53　3. 7　31
4. 98　5. 2008　2　29　6. 18
7. 二　[点拨] 用计算法解决问题。2018 年是平年,$365\div7=52$(个星期)……1(天),因为 2018 年 1 月 1 日是星期一,经过计算,2018 年 12 月 31 日还是星期一,那么 2019 年 1 月 1 日就是星期二。
8. 9900　199　9. 3　10. 600
11. 1、2、3 或 4　5、6、7、8、9
12. <　<　=　>　>　=　13. 50
14. 2200　5000　2000　5　400　650　4500
15. (1) 千克　(2) 吨　(3) 千克　(4) 克
16. >　<　=　<　17. 50
18. 600　[点拨] 拿出来一半的石块,还剩 800 千克,说明一半的石块重 200 千克,那么石块的总重量就是 400 千克,1 吨中去掉石块的重量就是沙子的重量,是 600 千克。
19. 96　[点拨] $(684-396)\div(4-1)=96$(克)

关注微信公众号"教辅资料站"获取更多学习资料

20. 2　1　[点拨] 4÷2=2(千克)　2÷2=1(千克)
21. 2　4　22. 10　20　30
23. 15　9　37
[点拨] 已知□+○=46,△+□=52,△+○=24,那么2(△+□+○)=46+52+24,经过计算△+□+○=61,再把已知信息分别代入这个式子当中,可以求出△=15,○=9,□=37。
24. 烧开水　背诵成语　17　25. 12
26. 22　[点拨] 煮饭的同时,完成择菜、洗菜、切菜、炒菜几项任务。
27. 红红　青青　美美　26

期末总复习

题型突破卷2　选择题

1. B　2. A　3. B
4. A　[点拨] 6月出差30天,7月出差31天,8月出差31天,9月出差30天,10月出差18天,一共出差140天,所以选A。
5. B　6. C
7. C　[点拨] 同一个月的经过时间是结束时间-开始时间+1天,31-15+1=17(天),所以选C。
8. B　9. B　10. B　11. B　12. B
13. C　[点拨] 要使积最大,第一个因数的十位上的数字应该是最大的一位数,即十位上的数字是9。
14. B
15. B　[点拨] 由题意,知69×80<70×80,69×81=5589<5600,69×82=5658>5600,所以最大可填81,所以选B。
16. B　[点拨] 由每排有22个座位,一共有18排,可以求出一共有18×22=396(个)座位,再与400比较即可。
17. B
18. B　[点拨] 分析可得,天数扩大了10÷2=5倍,猫的只数扩大了10÷2=5倍,则10只猫10天能逮2×5×5=50(只)老鼠。
19. C　20. C　21. C
22. B　[点拨] 要先换成统一的单位再计算。1吨=1000千克,1000+50=1050(千克),所以选B。
23. B　24. B　25. B　26. B　27. C
28. B　29. C　30. A
31. A
[点拨]
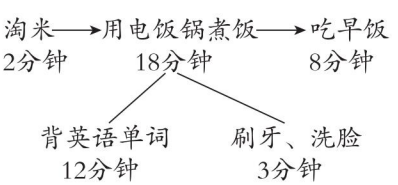

则刘英起床后最短用2+18+8=28(分钟)就能去上学。

期末总复习

题型突破卷3　计算题

1. 3000　420　770　480　5600　960　1800　460　1600　720　600　9900　800　2310　720　4600
2. 1　$\frac{2}{4}$　$\frac{1}{7}$　$\frac{3}{6}$　$\frac{4}{9}$　$\frac{2}{7}$　$\frac{11}{17}$　$\frac{3}{7}$　$\frac{4}{9}$　$\frac{5}{8}$　1　$\frac{3}{7}$　0　$\frac{2}{6}$
3. 6.8　8　1　3.6　5.1　1.4　0.3　10　3.5　4.6　2.3　5　7　7.7　7.5　8.9
4. $\frac{2}{8}$　$\frac{4}{7}$　$\frac{5}{10}$　$\frac{2}{9}$　$\frac{4}{5}$　$\frac{2}{9}$　$\frac{3}{7}$　$\frac{4}{8}$
5. 0.7　0.4　1.6　5.4　0.6　0.8　0.7　0.8
6. 600　600　2400　300　700　3200　2000　1800
7. 40×19　积大于3000且小于4200
71×58　积大于600且小于1200
26×34　积大于3500且小于4800
55×63　积大于400且小于800
8. 43×12=516　26×50=1300　47×39=1833

$$\begin{array}{r} 43 \\ \times\ 12 \\ \hline 86 \\ 43 \\ \hline 516 \end{array}\qquad \begin{array}{r} 26 \\ \times\ 50 \\ \hline 1300 \end{array}\qquad \begin{array}{r} 47 \\ \times\ 39 \\ \hline 423 \\ 141 \\ \hline 1833 \end{array}$$

18×65=1170　76×25=1900　87×30=2610

$$\begin{array}{r} 76 \\ \times\ 25 \\ \hline 380 \\ 152 \\ \hline 1900 \end{array}\qquad \begin{array}{r} 76 \\ \times\ 25 \\ \hline 380 \\ 152 \\ \hline 1900 \end{array}\qquad \begin{array}{r} 87 \\ \times\ 30 \\ \hline 2610 \end{array}$$

9. 7.1+5.8=12.9　6.5+4.9=11.4

$$\begin{array}{r} 7.1 \\ +\ 5.8 \\ \hline 12.9 \end{array}\qquad \begin{array}{r} 6.5 \\ +\ 4.9 \\ \hline 11.4 \end{array}$$

5.4-2.3=3.1　10.3-6.7=3.6

$$\begin{array}{r} 5.4 \\ -\ 2.3 \\ \hline 3.1 \end{array}\qquad \begin{array}{r} 10.3 \\ -\ 6.7 \\ \hline 3.6 \end{array}$$

11-3.9=7.1　16.3+4.4=20.7

$$\begin{array}{r} 11.0 \\ -\ 3.9 \\ \hline 7.1 \end{array}\qquad \begin{array}{r} 16.3 \\ +\ 4.4 \\ \hline 20.7 \end{array}$$

10. 36×12÷8　48÷3×82
=432÷8　=16×82
=54　=1312
58×(480÷6)　47×32÷4
=58×80　=1504÷4
=4640　=376
11. 42×(160-85)　1000-36×24
=42×75　=1000-864
=3150　=136

关注微信公众号“教辅资料站”获取更多学习资料

$348 \div 6 + 356$　　$(18 + 27) \times 56$

$= 58 + 356$　　$= 45 \times 56$

$= 414$　　$= 2520$

$1850 + 47 \times 35$

$= 1850 + 1645$

$= 3495$

期末总复习

题型突破卷 4　图形题

1. 56 m　187 m^2

31 cm　78 cm

44 cm　121 cm^2

边长 6 cm　36 cm^2

2. $38 \times (12 + 5) = 646(m^2)$

$12 \times 12 = 144(m^2)$

$646 + 144 = 790(m^2)$

3. $15 \times 6 = 90$(平方米)

90 平方米 = 9000 平方分米

$9000 \div 9 = 1000$(块)　$5 \times 1000 = 5000$(元)

答:共需要这样的方砖 1000 块,铺满地面需要 5000 元。

[**点拨**] 想知道需要方砖多少块,必须先知道房间地面面积有多大,再用房间地面面积除以每块方砖面积,可以求出需要方砖的块数,再用每块方砖的价钱乘方砖的块数就是铺满地面需要的钱数。

4. $92 \times 46 = 4232$(平方厘米)

$(92 + 46) \times 2 = 276$(厘米)

答:这张照片的面积是 4232 平方厘米,至少需要 276 厘米的金属条。

5. $75 \div 3 = 25$(米)

$25 \times 25 = 625$(平方米)

答:这块菜地的面积是 625 平方米。

6.

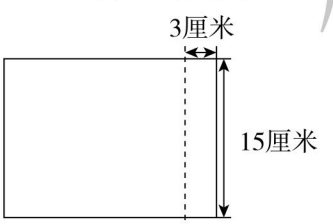

$20 - 3 = 17$(厘米)

周长:$(17 + 15) \times 2 = 64$(厘米)

面积:$17 \times 15 = 255$(平方厘米)

答:剩下的彩纸的周长是 64 厘米,面积是 255 平方厘米。

[**点拨**] 剪法不唯一。

7. (1) 正西　东北　(2) 正西　东南

(3) 西南　东北　(4) 食堂　实验楼

(5) 植物园　教学楼　西南

[**点拨**] (5) 题答案不唯一。

8.

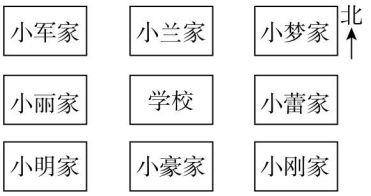

9. (1) 美团外卖　派乐趣外卖

(2) 810　(3) 60

(4) 我会选择美团外卖,因为美团外卖上的订餐数量最多。

10. (1) 128　159　170　165

(2) 王芳　170　42　(3) 王芳　郭芳芳

期末总复习

题型突破卷 5　应用题

1. $298 \times 51 \approx 15000$(元)

答:这台电视机大约 15000 元。

2. $28 \times 19 \approx 600$(字)

28×19 的积小于 600

答:她写的字数不够。

3. $5 \times 3 \times 40 = 600$(本)

答:这些书架一共能放 600 本书。

4. $24 \times 38 \times 4 = 3648$(元)

答:这些果汁一共可以卖 3648 元。

5. $1440 \div 4 \div 8 = 45$(张)

答:平均每间教室安排 45 张桌子。

6. $960 \div 5 \div 6 = 32$(箱)

答:能装 32 箱。

7. $200 \div (24 \div 3) = 25$(盒)

8. 1 小时 = 60 分钟

$324 \div 4 \times 60 = 4860$(个)

答:她 1 小时能打 4860 个字。

9. $84 \times 12 \div 9 = 112$(棵)

答:实际平均每天栽树 112 棵。

10. $84 \times 30 \div 4 = 630$(根)

答:可以买 630 根。

11. $1 - (\frac{4}{9} + \frac{4}{9}) = \frac{1}{9}$

答:这批书还剩总数的$\frac{1}{9}$没有卖出。

12. $18.5 + 11.6 = 30.1$(元)

$18.5 + 30.1 = 48.6$(元)

答:妈妈买一双鞋和一件上衣要付 48.6 元。

荣德基好卷

关注微信公众号"教辅资料站"获取更多学习资料