来天下桃李 德四方学人
荣德基 主编

好卷



主 编：荣德基　　本册主编：徐莹珠

3 数学 三年级 下 SJ版

吉林教育出版社



目录

同步跟踪检测卷

大卷

☆单元检测卷（8套）
第一单元跟踪检测卷 …… 1
第二、三单元跟踪检测卷 …… 3
第四单元跟踪检测卷 …… 5
第五单元跟踪检测卷 …… 7
期中检测卷 …… 9
第六单元跟踪检测卷 …… 11
第七单元跟踪检测卷 …… 13
第八、九单元跟踪检测卷 …… 15

小卷

☆周测培优卷（12套）
◆两位数乘两位数的口算、估算及笔算 …… 1
乘数末尾有0的乘法及用两步连乘解决实际问题 …… 3
◆千米和吨的认识 …… 5
◆从问题出发分析和解决实际问题 …… 7
◆两步计算的混合运算（含认识小括号）及应用 …… 9
◆年、月、日的认识及24时记时法 …… 11
求简单的经过时间 …… 13
◆面积含义和面积单位的认识 …… 15
长方形和正方形的面积计算和单位间的进率 … 17
◆认识一个整体的几分之一及几分之几 …… 19
◆小数的初步认识、比较大小及简单的加减法…… 21
◆简单数据的汇总、排序及分组 …… 23

期末复习冲刺卷

大卷

☆模块过关卷（2套）
数与代数　统计 …… 17
图形与几何 …… 19
☆仿真模拟卷（4套）
仿真模拟卷（一） …… 21
仿真模拟卷（二） …… 23
江苏省某名校期末测试卷 …… 25
山西省某名校期末测试卷 …… 27
参考答案及点拨 …… 29

小卷

☆专项复习卷（5套）
两位数乘两位数的笔算和两步混合运算 …… 25
年、月、日和千米、吨 …… 27
分数、小数的初步认识 …… 29
长方形和正方形的面积 …… 31
解决实际问题的策略和统计 …… 33
☆满分压轴卷（2套）
常考易错突破卷（一） …… 35
常考易错突破卷（二） …… 37
参考答案及点拨 …… 39

好卷 全面测评 环环相扣有抓手
专项突破 重难易错不失分

荣德基
微信公众号
教辅资料站
关注微信公众号“教辅资料站”获取更多学习资料

荣德基 好卷

第一单元 跟踪检测卷

两位数乘两位数

三年级 数学 下 SJ版

时间：90分钟　满分：100分+10分

题号	一	二	三	四	五	六	附加题	总分
得分								

姓名　学号　班级　学校　密　封　线

一、填空。（每空1分，共27分）

1. 口算24×20时，可以先算（　　），再在得数的末尾添上（　　）个0，结果是（　　）。
2. 82×59的积大约是（　　），最高位是（　　）位。
3. 44×50的积的末尾有（　　）个0。50个20相加得（　　）。
4. 学校展出元宵节花灯，每个班送出12盏参加展览，31个班一共有多少盏花灯参加展览？根据数量关系完成填空。

　　1　2
×　3　1
——————
　　1　2　……（　　）个班送出（　　）盏花灯参加展览
3　6　　……（　　）个班送出（　　）盏花灯参加展览
——————
3　7　2　……（　　）个班有（　　）盏花灯参加展览

5. 在○里填上“＞”“＜”或“＝”。

50×30 ○ 49×28　　16×32 ○ 35×16

42×85 ○ 35×79　　28×10 ○ 7×40

6. 42×□1，要使积是四位数，□里最小填（　　）。要使积是三位数，□里最大填（　　）。
7. 38×19+38=38×（　　）　　25×16=25×4×（　　）

26×29=26×（　　）−26　　32×6×7=32×（　　）

8. 弟弟有16张邮票，哥哥的邮票是弟弟的12倍，哥哥有（　　）张邮票，两人一共有（　　）张邮票。
9. 江苏滨海盛产何首乌，一个普通家庭一季生产了50袋（袋子同样大）。该家庭称了其中的4袋，结果分别是28千克、31千克、29千克、32千克。他大约一共收获何首乌(　　)千克。
10. 一个工人一天可以加工24个零件，照这样计算，4个工人一个星期（7天）能加工（　　）个零件。

二、判断。（对的在括号里打“√”，错的打“×”。每题1分，共5分）

1. 两个两位数的积一定大于这两个两位数的和。（　　）
2. 两个两位数相乘，积可能是三位数，也可能是四位数。（　　）
3. 65×60的积的末尾只有一个0。（　　）
4. 24×50的积和25×40的积相等。（　　）
5. 38×49的积大于1200小于2000。（　　）

三、选择。（将正确答案的字母填在括号里。每题1分，共5分）

1. 45×20的积末尾有（　　）个0。

A. 1　　B. 2　　C. 3

2. 学校图书馆的书架上，每一格可放32～38本书，如果书架共有21格，一共可以放书约（　　）本。

A. 200～600　　B. 900～1200　　C. 600～800

3. 一个两位数乘13，积不可能是（　　）位数。

A. 两　　B. 三　　C. 四

4. 10名同学1分钟折了11只千纸鹤，他们1个小时折（　　）只千纸鹤。

A. 600　　B. 110　　C. 660

5. 与28×49的积不相等的算式是（　　）。

A. 28×7×7　　B. 28×50−28　　C. 28×40+9

四、计算。（共23分）

1. 直接写得数。（每题1分，共12分）

50×15=	60×80=	10×90=	3×320=
32×30=	51×70=	480×0=	25×3=
25×40=	20×50=	90×90=	99×8×0=

2. 用竖式计算。（每题2分，共8分）

79×68=　　80×35=　　45×75=　　12×44=

3. 估一估，把得数比3000小的算式圈起来。（3分）

46×59　　39×62　　69×58

82×68　　78×29　　78×53

豆点提示：请不要在密封线内答题哦！

荣德基好卷　微信公众号 教辅资料站　关注微信公众号“教辅资料站”获取更多学习资料

五、探究规律。（6 分）

乘数	40	40	40	40
乘数	5	10	15	20
积				

我的发现（　　）。

六、解决问题。（共 34 分）

1. 学校食堂购进大米 38 袋，每袋 15 千克。学校一共购进大米多少千克？（5 分）

2. 盐城新四军纪念馆某天上午有 85 人参观，下午参观的人数是上午的 12 倍，一天一共有多少人参观？（5 分）

3. 花园小学要购进 50 套如图所示的课桌椅，一共需要多少元？（5 分）



每张课桌 52 元

每把椅子 18 元

4. 一只母鸡平均一个月生产 28 个鸡蛋，照这样计算，5 只母鸡 4 个月可以生产多少个鸡蛋？（5 分）

5. 新洋实验学校给鼓号队队员买 40 件短袖衫，付出 2000 元，找回一些。



① 69 元



② 49 元



③ 57 元

（1）估计一下：买的是哪种短袖衫？（3 分）

（2）实际用了多少元？找回多少元？（3 分）

（3）你还能提出什么问题？提出并解答。（3 分）

6. 某公司食堂运来 24 袋大米，每袋重 25 千克。如果平均每天吃 48 千克，这些大米够吃 12 天吗？（5 分）

附加题：（10 分）

用 6、7 、8、9 组成两位数，使它们的乘积最大，它们的积最大应是多少？

荣德基好卷
自己说说
老师点评
家长点评
密
封
线
微信公众号
教辅资料站
关注微信公众号“教辅资料站”获取更多学习资料

姓名 学号 班级 学校

密 封 线

荣德基 好卷

三年级 数学 下 SJ版

第二、三单元 跟踪检测卷

千米和吨　解决问题的策略

时间：90分钟　满分：100分+10分

题号	一	二	三	四	五	附加题	总分
得分							

一、填空。（每空1分，共25分）

1. 计量路程或测量铁路、公路、河流的长度，通常用（　　）作单位，可以用字母（　　）表示，又叫作（　　）。
2. 称比较重的或大宗的物品，通常用（　　）作单位，可以用字母（　　）表示。
3. 一把椅子45元，一张桌子的价格是一把椅子的5倍，买一张桌子和一把椅子共要（　　）元。
4. 跑道每圈200米，2圈半是（　　）米。小军跑了10圈就是跑了（　　）千米。
5. 有一盒糖，平均分给15人，每人分8颗，还剩34颗。这盒糖共有(　　)颗。
6. 2块砖重5千克，200块砖重（　　）千克，（　　）块这样的砖重1吨。
7. 在括号里填上合适的单位名称。

   小红的身高是142（　　），体重是27（　　），每分钟能步行70（　　）。

   一架飞机每小时飞行720（　　）。

   世界上最大的动物是蓝鲸，一只蓝鲸的体重约为162（　　）。

   世界上最高的山峰——珠穆朗玛峰高8844（　　）。
8. 2000米 =（　　）千米　　7吨 =（　　）千克

   12分米 =（　　）厘米　　9千克 =（　　）克

   5000千克 =（　　）吨　　7000米 =（　　）千米
9. 工厂进行节能减排改造后，一个月节约用水大约300千克，照这样计算，十个月可节约用水（　　）吨。
10. 图书室各种图书统计如下，你能把表格填写完整吗？

童话书	科技书	故事书	一共
102本	（　　）本	864本	1445本

二、判断。（对的在括号里打“√”，错的打“×”。每题2分，共12分）

1. 张叔叔的体重约有180吨。（　　）
2. 世界第一长河——尼罗河全长约6670米。（　　）
3. 300克+200克=1千克（　　）
4. 小军家一个月可节约用水500千克，一年正好节约用水5吨。（　　）
5. 一辆大卡车的载质量为10千克。（　　）
6. 小美有邮票36枚，比小勇多12枚，两人一共有84枚邮票。（　　）

三、选择。（将正确答案的字母填在括号里。每题2分，共10分）

1. 商店给亚运会篮球比赛场馆送去5箱饮料，每箱12瓶，每瓶3元，一共用了（　　）。

   A. 60元　　B. 36元　　C. 180元
2. 小明家到学校有500米，妈妈每天接送小明要走两个来回，妈妈一天共走（　　）千米。

   A. 1　　B. 2　　C. 2000
3. 一堆黄沙重1吨，用2辆大车4次运完，平均每辆大车每次运（　　）千克。

   A. 1250　　B. 125　　C. 100
4. 小亮的体重是35千克，_____，小勇比小红重12千克，小勇重多少千克？横线上补充的条件可以是（　　）。

   A. 小阳比小亮重6千克　　B. 小红比小亮重9千克　　C. 小红比小勇轻12千克
5. 兵兵读一本156页的故事书，他每天读12页，第6天应从第（　　）页开始读。

   A. 96　　B. 61　　C. 60

四、操作题。（共18分）

1. 把下面的数量从大到小排列。（每题4分，共8分）

   （1）3800千克　　4吨　　40千克　　3800克

   (　　)

   （2）54千米　　5400米　　4500米　　6千米

   (　　)
2. 连一连。（4分）



3吨



8300克



300千克



1000克

荣德基好卷

微信公众号 教辅资料站

关注微信公众号“教辅资料站”获取更多学习资料



3. 看图列式计算。(每题 3 分，共 6 分)

(1)

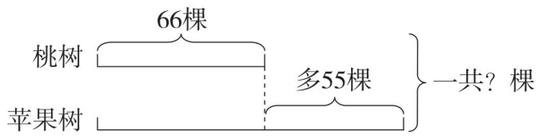

(2)

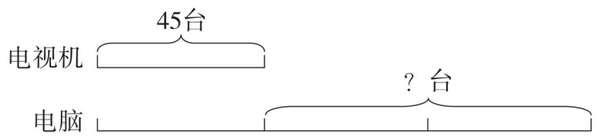

五、解决问题。(共 35 分)

1. 工地上运来 1 吨水泥，第一次用去 350 千克，第二次用去 400 千克，还剩多少千克？(5 分)

2. 学校跑道每圈长 400 米，照这样计算，王强一周（7 天）跑多少米？合多少千米？(5 分)



3. 妈妈带了 1000 元，在下列商品中，任选三种，妈妈最少剩下多少元？(5 分)


509 元


112 元


56 元


299 元

4. 动物园有 18 只梅花鹿，羚羊的只数是梅花鹿只数的 4 倍。梅花鹿和羚羊一共有多少只？(5 分)

5. 新洋水果店买来一批水果，其中香蕉 65 千克，苹果比香蕉多 15 千克，西瓜的千克数是香蕉的 3 倍。

(1) 苹果和香蕉一共有多少千克？(4 分)

(2) 西瓜比香蕉多多少千克？(4 分)

6. 从南京到上海，李叔叔行驶了 168 千米，张叔叔行驶了 2 小时，_____，张叔叔比李叔叔多行驶了多少千米？(先补充缺少的条件，再解答)(7 分)

附加题：(10 分)

成成有 48 张邮票，给小凡 3 张后，现在的邮票张数是小凡的 5 倍。小凡原有邮票多少张？

荣德基 悦卷
自己说说
老师点评
家长点评
密 封 线
荣德基悦卷
微信公众号
教辅资料站
关注微信公众号“教辅资料站”获取更多学习资料

荣德基 好卷

三年级 数学 下 SJ版

第四单元 跟踪检测卷

混合运算

时间：90分钟　满分：100分+10分

题号	一	二	三	四	五	附加题	总分
得分							

姓名　学号　密　班级　封　学校　线

一、填空。（每空1分，共17分）

1. 计算 375 − 24 × 5 时，先算（　　）法，再算（　　）法，最后的结果是（　　）。计算 34 ×（37 + 63）时，应先算（　　）法，再算（　　）法，最后的结果是（　　）。

2. 把 83 × 2 = 166，200 − 166 = 34 合并成综合算式是（　　），把 5 × 4 = 20，20 + 30 = 50 合并成综合算式是（　　）。

3. 在○里填上“ > ”“ < ”或“ = ”。

95 ×（8 + 12）○ 95 × 8 + 12　　86 − 25 − 35 ○ 86 −（25 + 35）

220 ÷ 4 ÷ 2 ○ 320 ÷（4 × 2）　　240 − 40 ÷ 2 ○（240 − 40）÷ 2

60 + 70 × 7 ○（60 + 70）× 7　　48 × 5 + 15 ○ 48 ×（5 + 15）

4. 滨海港口是江苏较大的港口，港口有一堆黄沙有 150 吨，用载重 8 吨的卡车运了 13 次，还剩（　　）吨。

5. 一本画册有 56 页，小诺已经看了 16 页，剩下的 8 天看完，剩下的平均每天要看（　　）页。

6. 一个水果店上午售出 13 千克草莓，下午售出 10 千克草莓，每千克草莓售价 15 元，这些草莓一共卖了（　　）元。

二、判断。（对的在括号里打“√”，错的打“ × ”。每题1分，共5分）

1. 60 ÷ 3 + 2 = 60 ÷ 5 = 12　　（　　）

2. 在一道算式中添上或者去掉括号，可以改变算式的运算顺序。　　（　　）

3. 20 + 80 = 100，100 ÷ 4 = 25 合并成综合算式是 20 + 80 ÷ 4 = 25。　　（　　）

4. 165 与 8 的积比 786 多 534。　　（　　）

5. 根据 60 比一个数的一半多 16，求这个数，可列式为（60 − 16）× 2。　　（　　）

三、选择。（将正确答案的字母填在括号里。每题2分，共10分）

1. 750 减 25 的差乘 5，积是多少？正确列式是（　　）。

A.（750 − 25）× 5　　B. 750 − 25 × 5　　C. 5 × 750 − 25

2. 下列说法正确的是（　　）。

A. 混合运算中，必须先算乘除，后算加减

B. 有括号的算式，应先算括号里的，再算括号外的

C. 如果算式中只有加减，应该先算加，后算减

3. 下列与 315 − 86 − 14 计算结果相等的算式是（　　）。

A. 315 −（86 + 14）　　B. 315 + 86 − 14　　C. 315 −（86 − 14）

4. 同学们修补图书。五年级分 4 个组，一共修补 28 本，四年级分 6 个组，每组修补 8 本，两个年级一共修补了（　　）本。

A. 10　　B. 36　　C. 76

5. 小敏原来有一些邮票，今年又收集了 28 枚，送给小玲 35 枚后，还剩 42 枚，小敏原来有（　　）枚邮票。

A. 49　　B. 77　　C. 105

四、计算。（共38分）

1. 直接写得数。（每题1分，共8分）

20 − 20 ÷ 2 =　　30 × 14 − 4 =　　7 + 18 − 8 =

560 ÷ 7 ÷ 2 =　　50 + 50 × 3 =　　100 ÷ 2 + 5 =

61 − 45 + 5 =　　90 − 47 − 13 =

2. 脱式计算。（每题3分，共18分）

14 × 18 + 520　　780 ÷ 3 + 77　　67 + 34 ÷ 2

546 − 9 × 34　　（28 + 62）× 23　　36 ÷ 4 × 24

3. 下面计算对吗？先在□里打“√”或“ × ”，再把不对的改正过来。（每题3分，共6分）

342 − 42 ÷ 6 □　　50 − 16 + 20 □

= 300 ÷ 6　　= 50 − 36

= 50　　= 14

豆点提示：请不要在密封线内答题哦！

荣德基 微信公众号 教辅资料站
关注微信公众号“教辅资料站”获取更多学习资料

4. 算“24 点”。（每题 2 分，共 6 分）

（1）1　5　8　9

（2）2　3　6　8

（3）8　3　6　5

五、解决问题。（共 30 分）

1. 第一车间要加工 800 个零件，剩下的平均每天加工多少个零件？（6 分）



2. 同学们参加植树活动，平均每人植树 5 棵，两个班一共植树多少棵？（6 分）



3. 养殖场有奶牛 66 只，绵羊的只数是奶牛的 3 倍。

（1）养殖场一共有奶牛和绵羊多少只？（3 分）

（2）养殖场的绵羊比奶牛多多少只？（3 分）

4. 王老师买 5 本价钱相同的故事书，用去 80 元。全班有 52 名学生，每人都买一本这样的故事书，一共要多少元？（6 分）

5. 李叔叔家到公司的路程全长 900 米，他计划 9 分钟骑车从家到公司，实际比计划少用 3 分钟，实际平均每分钟骑多少米？（6 分）

附加题：（10 分）

小马虎在计算 80 + □ × 5 时，先算加法，再算乘法，得到的结果是 460，你能帮助小马虎算出正确的结果吗？

自己说说

老师点评

家长点评

密　封　线

荣德基好卷
荣德基好卷
微信公众号
教辅资料站

关注微信公众号“教辅资料站”获取更多学习资料

荣德基 好卷

第五单元 跟踪检测卷

年、月、日

三年级 数学 下 SJ版

时间：90分钟　满分：100分+10分

题号	一	二	三	四	五	附加题	总分
得分							

姓名　学号　班级　学校　密　封　线

早点提示：请不要在密封线内答题哦！

一、填空。（每空1分，共33分）

1. 一年有（　　）个月，（　　）月是大月，每月有（　　）天，（　　）月是小月，每月有（　　）天，（　　）月既不是大月也不是小月。
2. 北京冬奥会在（　　）年举办，这一年的第一季度有（　　）天。
3. 成成是2012年2月15日出生的，这一年是（　　）年，这个月有（　　）天，这一年有（　　）天。
4. 小凡早上7：30到校，中午11：50离校，他上午在校（　　）小时（　　）分钟。
5. 平年一年有（　　）天，合（　　）个星期零（　　）天。
6. 右表中公共汽车最早是（　　）时（　　）分开出，最晚是（　　）时（　　）分开出，最早发车时间与最晚发车时间相隔（　　）小时（　　）分钟。

下一站：文昌广场
始发站：××东站
终点站：××西站
服务时间：5:40~23:30

7. 海底世界上午9时开馆，下午4时闭馆，每天开放（　　）小时。
8. 一次数学考试从14：30开始，到15：10结束，这次数学考试持续了（　　）分钟。
9. 他们的生日分别是几月几日？填在括号里。

小红说：“我的生日是8月的最后一天。”（　　）月（　　）日

小刚说：“我的生日是第三季度的倒数第三天。”（　　）月（　　）日

小军说：“我的生日在劳动节前五天。”（　　）月（　　）日

小林说：“我每过四年才有这一个生日。”（　　）月（　　）日

10. 妈妈晚上8时上班，工作8小时，妈妈第二天（　　）时下班。

二、判断。（对的在括号里打“√”，错的打“×”。每题1分，共5分）

1. 9月31日我参加了数学竞赛。（　　）
2. 一年里，除二月外，有7个大月，4个小月。（　　）
3. 小新是2月29日出生，出生那年是闰年。（　　）
4. 晚上8时用24时记时法是20时。（　　）
5. 21时用普通记时法表示是9时。（　　）

三、选择。（将正确答案的字母填在括号里。每题2分，共8分）

1. 7、8、9三个月共有（　　）天。

A. 90　　B. 91　　C. 92

2. 下面的年份是闰年的是（　　）。

A. 2019　　B. 2018　　C. 2020

3. 0时是（　　）。

A. 23时　　B. 中午12时　　C. 午夜12时

4. 2019年的2月22日是星期五，接下来的一个星期五是（　　）。

A. 2月28日　　B. 3月1日　　C. 3月2日

四、按要求完成下面各题。（共20分）

1. 用24时记时法表示下面时刻。（每空1分，共4分）

早上6时30分　　中午12时　　下午3时45分　　深夜11时

（　　）　　（　　）　　（　　）　　（　　）

2. 用普通记时法表示下面时刻。（每空1分，共4分）

17：50　　10：00　　16：25　　24：00

（　　）　　（　　）　　（　　）　　（　　）

3. 给下面的钟面画上时针。（每题1分，共4分）



14：00



凌晨2：00



9：00



21：00

4. 下面是某一年连续两个月的月历表，请根据月历表回答问题。（8分）

日	一	二	三	四	五	六
				1	2	3
4	5	6	7	8	9	10
11	12	13	14	15	16	17
18	29	20	21	22	23	24
25	26	27	28	29	30	31

日	一	二	三	四	五	六
			1	2	3	4
5	6	7	8	9	10	11
12	13	14	15	16	17	18
19	20	21	22	23	24	25
26	27	28	29			

（1）这是（　　）月、（　　）月的月历表。

（2）这一年是（　　）年。

（3）小红4年只过一个生日，在月历表中圈出小红过生日的那天。

荣德基好卷　微信公众号　教辅资料站
关注微信公众号“教辅资料站”获取更多学习资料

五、解决问题。（共 34 分）

1. 丽丽一家从盐城乘火车到南京游玩，火车从 15：00 开出，经历 2 小时 30 分到达南京，火车几时几分到达南京？（6 分）

2. 盐城新四军纪念馆每天上午 8 时 30 分开馆，下午 5 时闭馆，这个纪念馆每天开放多久？（6 分）

3. 某商场在 2019 年的第三季度中，平均每天节约用电 9 千瓦时，这个季度共节约用电多少千瓦时？（6 分）

4. 小丽上学每分钟走 37 米，她家离学校有多远？（7 分）

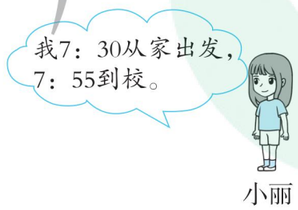

小丽

5. 下面是某电视台某一天的部分栏目播出时间。

7：00　早间新闻　　7：25 文化星空　　8：00 车行天下

8：35　动画剧场　　12：30 国际时尚　　18：00 七彩阳光

（1）《早间新闻》7：20 结束，这个栏目播出多长时间？（3 分）

（2）《七彩阳光》播出时间是下午几时？（3 分）

（3）《文化星空》开始播出到《动画剧场》开始播出相隔多少时间？（3 分）

附加题：（10 分）

某地 2 路公交车每 8 分钟发出一班车，7：30 开出第一班车，那么第 5 班车应该在几时几分发出？

自己说说

老师点评

家长点评

密　封　线

荣德基好卷
微信公众号
教辅资料站
关注微信公众号“教辅资料站”获取更多学习资料

荣德基 好卷

三年级 数学 下 SJ版

期中 检测卷

时间：90分钟　满分：100分+10分

题号	一	二	三	四	五	六	附加题	总分
得分								

一、填空。（每空1分，共25分）

1. 在括号里填上合适的单位。

连接苏州和南通两市的苏通大桥大约长8（　　）。

一头鲨鱼重约20（　　）。　　一张光碟约重10（　　）。

小明身高153（　　），体重27（　　）。

2. 61×27的积是（　　）位数，积的最高位在（　　）位上。

3. 根据186－72＝114，114÷6＝19，写成综合算式是（　　）。

根据18×15＝270，45＋270＝315，写成综合算式是（　　）。

4. 要使7□×20的积的末尾有两个0，□里可以填（　　）。

5. 一年有（　　）个季度，2019年第一季度有（　　）天，2019年上半年比下半年少（　　）天。

6. 在◯里填上“＞”“＜”或“＝”。

32×20 ◯ 23×30　　2吨 ◯ 1500千克　　990克 ◯ 1千克

10×90 ◯ 90＋10　　4000千克 ◯ 4吨　　1千米 ◯ 120米

7. 荷兰花海每天开放时间是8时30分到17时30分，开放时间从上午（　　）到下午（　　），这一天共开放了（　　）小时。

8. 三（2）班的图书角第一天借出了存书的一半，第二天又借出了26本，这时还剩28本。图书角原来有（　　）本图书。

9. 用5、7、1、6算24点，列式是（　　）。

10. 一头牛每天需要饲料12千克，这头牛5月份共需要饲料（　　）千克。

二、判断。（对的在括号里打“√”，错的打“×”。每题1分，共5分）

1.（36－20）÷2去掉括号后并没有改变计算结果。（　　）

2. 小明的生日是2009年2月29日。（　　）

3. 两个乘数的末尾共有几个0，乘得的积的末尾就只有几个0。（　　）

4. 2000千克水泥比2吨棉花重。（　　）

5. 每年第三季度与第四季度的天数相同。（　　）

三、选择。（将正确答案的字母填在括号里。每题1分，共5分）

1. 下面各题中，乘积一定大于4200的是（　　）。

A. 59×69　　B. 62×72　　C. 58×71

2. 用24时记时法，正确描述下面三幅图片时间的是（　　）。





A. 10：00、4：00、20：00　　B. 10：00、16：00、20：00

C. 10：00、16：00、8：00

3.（　　）的1、2、3月共有91天。

A. 平年　　B. 闰年　　C. 每一年

4. 某童装厂第一车间有12人，平均每人每天生产童装4套，五月份一共生产多少套？正确的列式是（　　）。

A. 4×12　　B. 4×12×30　　C. 4×12×31

5. 沿着400米的跑道跑了20圈是（　　）千米。

A. 8000　　B. 80　　C. 8

四、计算。（共30分）

1. 直接写得数。（每题0.5分，共8分）

14×5＝	60÷5＝	90＋50＝	8×7＋2＝
26×3＝	180－90＝	300×7＝	50－16÷2＝
80×7＝	50×60＝	25×10＝	40＋10×2＝
4×50＝	42÷3＝	900÷3＝	9×（4＋3）＝

2. 用竖式计算，带※的要验算。（要验算的每题3分，其余每题2分，共10分）

※56×34＝　　40×38＝　　※85×79＝　　68×70＝

3. 脱式计算。（每题3分，共12分）

48×12－220　　25＋45×50

姓名　学号　班级　学校

密　封　线



荣德基好卷
微信公众号
教辅资料站
关注微信公众号“教辅资料站”获取更多学习资料

786 −（253 +147）　　（428 +72）÷5

五、看图列式计算。（每题 3 分，共 6 分）

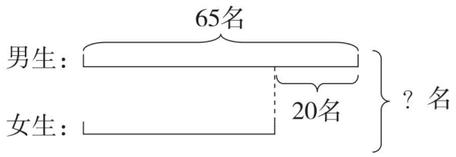

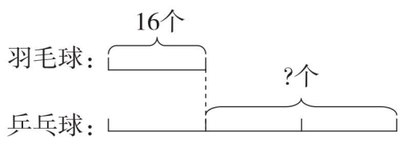

六、解决问题。（共 29 分）

1. 食堂运来 40 袋大米，每袋重 50 千克，共重多少千克？合多少吨？（4 分）

2. 王老师想买 19 本《科技天地》，带 600 元够吗？（4 分）



每本 29 元

3. 李叔叔从上午 10 时到下午 2 时一共给 320 棵果树喷洒农药，他平均每小时喷洒多少棵？（4 分）

4. 一本书有 150 页，小华已经看了 3 天，每天看 32 页，还剩多少页没有看？（用综合算式解答）（4 分）

5. 张老师购买 8 盒乒乓球，每盒 12 个，每个乒乓球 3 元，一共需要多少元？（5 分）

6. 订阅一份《电视节目报》每个季度 36 元，有线电视收视维护费每月 21 元。

（1）订阅一份《电视节目报》全年要多少钱？（4 分）

（2）有线电视收视维护费全年要多少钱？（4 分）

附加题：（10 分）

王老师需要一根长 32 厘米的铁丝做实验，他将一根铁丝剪去一半，然后再剪去 4 厘米，正好符合实验要求，原来这根铁丝有多长？

自己说说

老师点评

家长点评

密　封　线

荣德基好卷
微信公众号
教辅资料站
关注微信公众号“教辅资料站”获取更多学习资料

荣德基 好卷

参考答案及点拨

三年级 数学 下 SJ版 （大卷）

第一单元跟踪检测卷

两位数乘两位数

一、1. 24×2　1　480

2. 4800　千　3. 2　1000

4. 1　12　30　360　31　372

5. ＞　＜　＞　＝

6. 3　2

7. 20　4　30　42

8. 192　208

9. 1500　10. 672

二、1. √　2. √　3. ×　4. ×　5. √

三、1. B　2. C

3. A　【点拨】最小是 10×13=130，所以积不可能是两位数。

4. C　5. C

四、1. 750　4800　900　960　960　3570　0

75　1000　1000　8100　0

2. 79×68=5372　　80×35=2800

$$\begin{array}{r} 79 \\ \times\ 68 \\ \hline 632 \\ 474 \\ \hline 5372 \end{array}$$

$$\begin{array}{r} 35 \\ \times\ 80 \\ \hline 2800 \end{array}$$

45×75=3375　　12×44=528

$$\begin{array}{r} 45 \\ \times\ 75 \\ \hline 225 \\ 315 \\ \hline 3375 \end{array}$$

$$\begin{array}{r} 12 \\ \times\ 44 \\ \hline 48 \\ 48 \\ \hline 528 \end{array}$$

3. （46×59）　（39×62）　（78×29）

五、200　400　600　800　当一个乘数不变时，另一个乘数扩大几倍，积就扩大几倍

六、1. 38×15=570（千克）

答：学校一共购进大米 570 千克。

2. 85×12+85=1105（人）

答：一天一共有 1105 人参观。

3. 52+18=70（元）

70×50=3500（元）

答：一共需要 3500 元。

4. 28×5×4=560（个）

答：5 只母鸡 4 个月可以生产 560 个鸡蛋。

5. （1）69×40≈2800（元）

49×40≈2000（元）

57×40≈2400（元）

答：买的是第②种短袖衫。

（2）49×40=1960（元）

2000−1960=40（元）

答：实际用了 1960 元，找回 40 元。

（3）（答案不唯一）如果买第③种短袖衫，实际要用多少元？

57×40=2280（元）

答：实际要用 2280 元。

6. 24×25=600（千克）

48×12=576（千克）600＞576

答：这些大米够吃 12 天。

附加题：96×87=8352

答：它们的积最大应是 8352。

第二、三单元跟踪检测卷

千米和吨　解决问题的策略

一、1. 千米　km　公里

2. 吨　t

3. 270

4. 500　2

5. 154　【点拨】共有的＝分了的＋剩下的。

6. 500　400

7. 厘米　千克　米　千米　吨　米

8. 2　7000　120　9000　5　7

9. 3　10. 479

二、1. ×　2. ×　3. ×　4. ×　5. ×

6. ×　【点拨】小美比小勇多 12 枚，则小勇有 36−12=24（枚），两人一共有 36+24=60（枚）。

三、1. C

2. B　【点拨】注意换算单位。

3. B　4. B　5. B

四、1. （1）4 吨＞3800 千克＞40 千克＞3800 克

（2）54 千米＞6 千米＞5400 米＞4500 米

2.

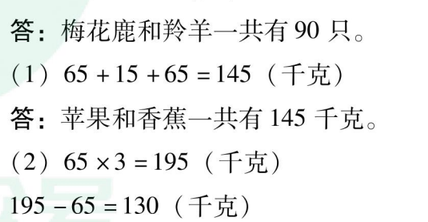

3. （1）66+55=121（棵）

121+66=187（棵）

（2）45×2=90（台）

五、1. 1 吨=1000 千克

1000−350−400=250（千克）

答：还剩 250 千克。

2. 400×5×7=14000（米）

14000 米=14 千米

答：王强一周（7 天）跑 14000 米，合 14 千米。

3. 509+112+299=920（元）

1000−920=80（元）

答：妈妈最少剩下 80 元。

4. 18×4+18=90（只）

答：梅花鹿和羚羊一共有 90 只。

5. （1）65+15+65=145（千克）

答：苹果和香蕉一共有 145 千克。

（2）65×3=195（千克）

195−65=130（千克）

答：西瓜比香蕉多 130 千克。

6. 补充条件：张叔叔每小时行驶 85 千米

85×2=170（千米）

170−168=2（千米）

答：张叔叔比李叔叔多行驶了 2 千米。

【点拨】补充条件不唯一。

附加题：48−3=45（张）

45÷5=9（张）

9−3=6（张）

答：小凡原有邮票 6 张。

【点拨】先求出成成现在有多少张，再求出小凡现在有多少张，最后求出小凡原来的张数。

第四单元跟踪检测卷

混合运算

一、1. 乘　减　255　加　乘　3400

2. 200−83×2=34　5×4+30=50

3. ＞　＝　＜　＞　＜　＜

4. 46　5. 5

6. 345

二、1. ×　2. √　3. ×　4. √　5. √

三、1. A　2. B　3. A　4. C

5. A　【点拨】原来的＝送走的＋还剩的−又收集的

四、1. 10　416　17　40　200　55　21　30

2.

14×18+520	780÷3+77
=252+520	=260+77
=772	=337
67+34÷2	546−9×34
=67+17	=546−306
=84	=240
（28+62）×23	36÷4×24
=90×23	=9×24
=2070	=216

3. ×　342−42÷6=342−7=335　　×　50−16+20=34+20=54

荣德基好卷 微信公众号 教辅资料站
关注微信公众号“教辅资料站”获取更多学习资料

4. （1）8－5＝3　9－1＝8　8×3＝24

（2）3×6＋8－2＝24

（3）3×（6－5）×8＝24

【点拨】答案不唯一。

五、1. （800－480）÷8＝40（个）

答：剩下的平均每天加工 40 个零件。

2. （36＋34）×5＝350（棵）

答：两个班一共植树 350 棵。

3. （1）66＋66×3＝264（只）

答：养殖场一共有奶牛和绵羊 264 只。

（2）66×3－66＝132（只）

答：养殖场的绵羊比奶牛多 132 只。

4. 80÷5×52＝832（元）

答：一共要 832 元。

5. 900÷（9－3）＝150（米）

答：实际平均每分钟骑 150 米。

附加题：460÷5－80＝12

80＋12×5＝140

答：正确的结果是 140。

【点拨】反过来先算出方框里的数。

第五单元跟踪检测卷

年、月、日

一、1. 12　1、3、5、7、8、10、12　31

4、6、9、11　30　2

2. 2022　90

3. 闰　29　366

4. 4　20

5. 365　52　1

6. 5　40　23　30　17　50

7. 7　【点拨】下午 4 时转成 24 时记时法是 16 时，上午 9 时转成 24 时记时法是 9 时，16－9＝7（时）。

8. 40

9. 8　31　9　28　4　26　2　29

10. 4　【点拨】晚上 8 时到凌晨 12 时是 4 小时。

二、1. ×　2. √　3. √　4. √　5. ×

三、1. C　2. C　3. C

4. B　【点拨】2019 年是平年，2 月只有 28 天。

四、1. 6：30　12：00　15：45　23：00

2. 下午 5 时 50 分　早上 10 时

下午 4 时 25 分　深夜 12 时

3. 

4. （1）2　3　（2）闰　（3）略

五、1. 15 时＋2 小时 30 分＝17 时 30 分

答：火车 17 时 30 分到达南京。

2. 下午 5 时＝17 时

17 时－8 时 30 分＝8 小时 30 分

答：这个纪念馆每天开放 8 小时 30 分。

3. 第三季度总天数：

31＋31＋30＝92（天）

92×9＝828（千瓦时）

答：这个季度共节约用电 828 千瓦时。

4. 55－30＝25（分钟）　25×37＝925（米）

答：她家离学校有 925 米。

5. （1）7：20－7：00＝20（分钟）

答：这个栏目播出 20 分钟。

（2）下午 6 时

（3）8：35－7：25＝1 小时 10 分钟

答：相隔 1 小时 10 分钟。

附加题：4×8＝32（分钟）

7 时 30 分＋32 分钟＝8 时 2 分

答：第 5 班车应该在 8 时 2 分发出。

【点拨】5 辆班车有 4 个时间段。

期中检测卷

一、1. 千米　吨　克　厘米　千克

2. 四　千

3. （186－72）÷6＝19

45＋18×15＝315

4. 5 或 0　5. 四　90　3

6. ＜　＞　＜　＞　＝　＞

7. 8 时 30 分　5 时 30 分　9

8. 108

9. 5×（7－1）－6＝24　（答案不唯一）

10. 372

二、1. ×　2. ×　3. ×　4. ×　5. √

三、1. B　2. B　3. B　4. C

5. C　【点拨】注意换算单位。

四、1. 70　12　140　58　78　90　2100　42　560　3000　250　60　200　14　300　63

2. 56×34＝1904

```
  56        验算：  34
× 34                × 56
 224                 204
168                 170
1904                1904
```

40×38＝1520

```
  38
×  40
1520
```

85×79＝6715

```
  85        验算：  79
× 79                × 85
 765                 395
595                 632
6715                6715
```

68×70＝4760

```
  68
×  70
4760
```

3.

48×12－220	25＋45×50
＝576－220	＝25＋2250
＝356	＝2275
786－（253＋147）	（428＋72）÷5
＝786－400	＝500÷5
＝386	＝100

五、65－20＋65＝110（名）

16×2＝32（个）

六、1. 40×50＝2000（千克）

2000 千克＝2 吨

答：共重 2000 千克，合 2 吨。

2. 19×29＝551（元）

551＜600

答：带 600 元够。

3. 下午 2 时＝14 时　14－10＝4（时）

320÷4＝80（棵）

答：他平均每小时喷洒 80 棵。

4. 150－32×3＝54（页）

答：还剩 54 页没有看。

5. 8×12×3＝288（元）

答：一共需要 288 元。

6. （1）36×4＝144（元）

答：订阅一份《电视节目报》全年要 144 元。

（2）21×12＝252（元）

答：有线电视收视维护费全年要 252 元。

附加题：（32＋4）×2＝72（厘米）

答：原来这根铁丝有 72 厘米长。

第六单元跟踪检测卷

长方形和正方形的面积

一、1. 平方米　平方分米　平方厘米

2. 900　1000　70　6

3. 平方厘米　平方厘米　平方分米　平方分米　平方米　平方分米

4. 6400　64

5. 40　4000

6. ＜　＞　＝　＜

关注微信公众号“教辅资料站”获取更多学习资料

7. 20

8. 120　144

9. 75　10. 6

11. 32

12. 15　正方　9

二、1. ×　2. √　3. ×　4. ×　5. √

三、1. C　2. A　3. C　B　4. B　5. A

四、（1）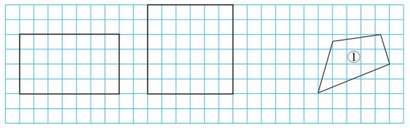

【点拨】所画长方形不唯一。

（2）11

五、60 cm^2　38 cm　9 dm　26 dm

20 m　200 m^2

边长 4 m　16 m^2　64 cm^2　32 cm

六、1. 11 × 5 = 55（平方分米）

55 平方分米 = 5500 平方厘米

答：它的面积是 55 平方分米，合 5500 平方厘米。

2. 240 ÷ 4 = 60（米）

60 × 60 = 3600（平方米）

答：鱼池的面积是 3600 平方米。

3. 60 × 8 × 5 = 2400（平方米）

答：能给 2400 平方米的地面洒上水。

4. 42 ÷ 6 = 7（米）

（7 + 6）× 2 = 26（米）

答：长是 7 米。小青绕花坛走了一圈走了 26 米。

5. （8 − 6）× 6 = 12（平方厘米）

答：剩下图形的面积是 12 平方厘米。

6. 6 × 3 × 5 = 90（千克）

答：这块菜地一共可以收韭菜 90 千克。

附加题：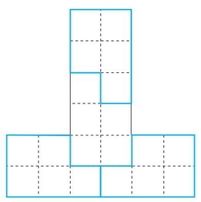

涂色略

第七单元跟踪检测卷

分数的初步认识（二）

一、1. $\frac{1}{4}$　$\frac{3}{8}$

2. $\frac{6}{7}$　$\frac{1}{8}$

3. $\frac{5}{9}$　$\frac{4}{9}$

4. 3　2

5. <　>　<　<

6. $\frac{1}{15}$　$\frac{1}{15}$　$\frac{7}{15}$

7. 4　$\frac{1}{3}$　2

8. $\frac{6}{10}$　8　$\frac{7}{10}$　50　7　$\frac{7}{1000}$

9. $\frac{1}{8}$

二、1. B　2. B

3. C　【点拨】小红胜就是小明输，所以小红胜了 5 次，总次数是 13 次。

4. B　5. A

三、$\frac{3}{9}$　$\frac{3}{4}$　$\frac{2}{5}$　$\frac{7}{8}$　$\frac{3}{8}$　0

四、1. $\frac{2}{5}$　$\frac{5}{9}$

2. 

3. 分一分略　3

4. （1）

（2）

五、1. 20 ÷ 5 × 2 = 8（个）

20 − 8 = 12（个）

答：还剩 12 个足球。

2. 60 ÷ 4 = 15（人）

60 ÷ 5 × 2 = 24（人）

答：参加合唱组的有 24 人，参加象棋组的有 15 人。

3. 25 + 15 = 40（人）

40 ÷ 5 = 8（人）

40 − 8 = 32（人）

答：踢足球的有 32 人。

4. 300 ÷ 2 = 150（页）

300 − 150 = 150（页）

150 ÷ 2 = 75（页）

答：第二天看了 75 页。

5. 72 ÷ 2 = 36（岁）

36 ÷ 4 = 9（岁）

答：小红今年 9 岁。

6. 40 ÷ 5 × 2 = 16（页）

16 + 1 = 17（页）

答：第三小时开始他应该从 17 页开始校对。

附加题：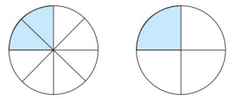

悟空和八戒吃得一样多。

第八、九单元跟踪检测卷

小数的初步认识　数据的收集和整理（二）

一、1. 6.5　六点五　2. 4　2（或 0.2）

3. 8　0.7　1.5　9.2

4. 1.1　1.9

5. 0，1，8，100　1.3，0.9，3.7

6. <　>　>　>　<　>　>　<

7. （1）0.1　2.1

（2）1　1.2　1.4

（3）0.6　0.3　0

8. 0、1、2　0 ~ 7

9. （1）66　（2）秋　夏　（3）33

10. 18.3　【点拨】先求出一个加数 = 39 − 23 = 16，正确结果：16 + 2.3 = 18.3。

二、1. ×　2. √　3. √　4. ×　5. ×

三、1. B　2. C

3. A　【点拨】1 里面有 10 个 0.1。

4. B　【点拨】注意单位。

5. C

四、1. 1　5.5　11　5　0.5　5　9　0.6

2. 3.5 + 4.8 = 8.3　　2.6 + 0.7 = 3.3

$$\begin{array}{r} 3.5 \\ +\ 4.8 \\ \hline 8.3 \end{array} \qquad \begin{array}{r} 2.6 \\ +\ 0.7 \\ \hline 3.3 \end{array}$$

4.2 − 1.8 = 2.4　　3.4 − 0.9 = 2.5

$$\begin{array}{r} 4.2 \\ -\ 1.8 \\ \hline 2.4 \end{array} \qquad \begin{array}{r} 3.4 \\ -\ 0.9 \\ \hline 2.5 \end{array}$$

五、（1）1　8　7　3　3　2

（2）90 ~ 99 分　100 分

（3）9　7　6　2

六、1. 2.4 + 3.3 = 5.7（吨）

8.5 − 5.7 = 2.8（吨）

答：这堆煤两次一共用去 5.7 吨，还剩 2.8 吨。

2. 1.5 米 > 1.3 米 > 1.2 米 > 1.1 米

3. 7.6 + 2.1 = 9.7（千米）

7.6 + 9.7 = 17.3（千米）

答：这条路长 17.3 千米。

4. 5.4 − 1.5 = 3.9（元）

1.5 + 1.5 = 3（元）

3 + 5.4 = 8.4（元）　8.4 < 10

答：一袋味精比一袋盐贵 3.9 元，带 10 元钱够。

5. （1）7.8 − 5.9 = 1.9（元）

答：一本《快乐作文》比一本《童话书》便宜 1.9 元。

关注微信公众号“教辅资料站”获取更多学习资料

（2）7.8+5.9=13.7（元）

13.7<20

答：两种书各买一本，20元够。

附加题： 0.1+0.2+0.3+0.4+0.5+0.6+0.7+0.8+0.9

=（0.1+0.9）+（0.2+0.8）+（0.3+0.7）+（0.4+0.6）+0.5

=1+1+1+1+0.5

=4.5

期末复习冲刺卷

模块过关卷（一） 数与代数 统计

一、1. 闰 91

2. $\frac{3}{10}$ 0.3 $\frac{8}{10}$ 0.8

3. 2

4. 800

5. 0.7 1.3 2.5

6. 16 40

7. 25千米>5200米>5千米>4千米800米>500米

8. 756

9. 应找回的钱数=付出的钱数-用了的钱数

400-22×14=92（元）

10. 2 【点拨】8÷4=2（枚）。

11. 五

二、1. × 2. × 3. × 4. × 5. ×

三、1. B 2. C 3. B 4. B

四、1. 350 1000 300 1.5 0.1

$\frac{4}{5}$ $\frac{3}{10}$ $\frac{2}{3}$

2. 49×83=4067

```
  49          83
× 83        × 49
 147         747
392         332
4067        4067
```

验算：

4.5+2.3=6.8

```
  4.5
+ 2.3
 6.8
```

8.4-7.5=0.9

```
  8.4
- 7.5
 0.9
```

30×27=810

```
  27
× 30
 810
```

3. 72-9×7=72-63=9　　350÷7×5=50×5=250

（480-80）÷8=400÷8=50

五、1. 6×20×12=1440（朵）

答：20个小组一共做了1440朵纸花。

2. 102÷（11-8）=34（千克）

答：平均每小时挖34千克。

3. 42÷7×5=30（吨）

42-30+24=36（吨）

答：现在有36吨煤。

4. $\frac{2}{9}+\frac{5}{9}=\frac{7}{9}$

36÷9×7=28（件）

答：一共卖出了28件。

5.（1）5.3-3.5=1.8（元）

答：直尺的价钱是1.8元。

（2）3.5-1.8=1.7（元）

答：直尺比三角尺便宜1.7元。

6.（1）

码数	30	32	34	35	36	37
人数	1	3	6	7	5	2

（2）6 37 30 35

附加题：6×24=144（本）

144÷3÷3=16（本）

答：平均每层放16本书。

期末复习冲刺卷

模块过关卷（二） 图形与几何

一、1. 40

2. 80 64 3. 50

4. 平方分米 米 平方米 米 平方米

5. 4 【点拨】1×1=1（平方米）1平方米=100平方分米 5×5=25（平方分米） 100÷25=4（块）

6. 49

7. 500 12 40 4 2000 800

8. > > < = < >

9. 8 16 【点拨】周长增加4个2厘米，面积增加25-9=16（平方厘米）。

二、1. × 2. × 3. × 4. × 5. √

三、1. B 2. C 3. C B 4. B 5. C A

四、1. 周长：（5+2）×2=14（dm）

面积：5×2=10（dm^2）

周长：4×3=12（m）

面积：3×3=9（m^2）

2. 14 cm 12 cm^2 170 cm 400 cm^2

24 cm 36 cm^2

五、

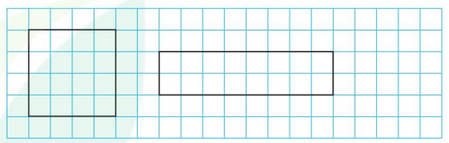

【点拨】长方形画法不唯一。

六、1. 42×20×3=2520（千克）

答：这块水稻试验田一共施肥2520千克。

2. 24÷3=8（米）

8×8=64（平方米）

答：这个正方形鸡舍的面积是64平方米。

【点拨】一面靠墙少算一个边长，三个边长的和是24米，一条边长是8米。

3. 240÷4=60（米）

60×60=3600（平方米）

答：鱼池的面积是3600平方米。

4. 12×9=108（平方米）

108平方米=10800平方分米

3×3=9（平方分米）

10800÷9=1200（块）

答：需要1200块这样的地砖。

5. 6×4=24（张）

24×49=1176（平方厘米）

答：这本书封面的面积是1176平方厘米。

附加题：18×5=90（平方米）

5+4=9（米）

90÷9=10（米）

18-10=8（米）

答：长应减少8米。

期末复习冲刺卷

仿真模拟卷（一）

一、1. 750 四

2. 千克 平方米 千米

3.（1）0.1 1.1 1.9

（2）0.1 1.1

4. 5 31

5. < < > < > <

6. 256 【点拨】长方形的周长是64厘米，和正方形周长一样，求出正方形的边长是16厘米，进而求出面积。

7. 8×（175-57）=944

8. 15

关注微信公众号“教辅资料站”获取更多学习资料

9. 8　$\frac{8}{24}$　2

10. 够

二、1. ×　2. ×　3. √　4. √　5. ×

三、1. B　2. A　3. A　4. B　5. B

四、1. 800　9.9　1　0　750　1760

2400　11

2. 7.5 + 2.8 = 10.3

$$\begin{array}{r} 7.5 \\ +\ 2.8 \\ \hline 10.3 \end{array}$$

8.4 − 5.9 = 2.5

$$\begin{array}{r} 8.4 \\ -\ 5.9 \\ \hline 2.5 \end{array}$$

68 × 32 = 2176

$$\begin{array}{r} 68 \\ \times\ 32 \\ \hline 136 \\ 204 \\ \hline 2176 \end{array}$$

验算：

$$\begin{array}{r} 32 \\ \times\ 68 \\ \hline 256 \\ 192 \\ \hline 2176 \end{array}$$

76 × 60 = 4560

$$\begin{array}{r} 76 \\ \times\ 60 \\ \hline 4560 \end{array}$$

3. 274−（76+56）
=274−132
=142

（848−520）÷ 8
=328 ÷ 8
=41

18 ×（250−236）
=18 × 14
=252

五、



12　8

六、1. 470 − 35 × 11 = 85（页）

答：还剩 85 页没有看。

2. 40 分米 = 4 米

4 × 4 = 16（平方米）

16 × 8 = 128（千克）

答：这块土地可以收 128 千克粮食。

3. 7.5 + 2.8 = 10.3（千米）

7.5 + 10.3 = 17.8（千米）

答：这条公路一共有 17.8 千米。

4.（1）60 ÷ 3 = 20（米）

60 × 20 = 1200（平方米）

答：这块菜地的面积有 1200 平方米。

（2）1200 ÷ 3 × 2 = 800（平方米）

答：西红柿地有 800 平方米。

5.（1）7　6　3

（2）最高是 97 分，最低是 62 分。

97 − 62 = 35（分）

答：这两个成绩相差 35 分。

附加题：（81 − 3 × 3）÷ 2 = 36（平方米）

36 ÷ 3 = 12（米）

12 × 12 = 144（平方米）

答：原来草坪的面积是 144 平方米。

期末复习冲刺卷

仿真模拟卷（二）

一、1. 7.8

2. 3　1763

3. 12　29

4. 吨　米　克　平方厘米

5.（71 − 8）× 7 = 441

6. 6　3

7. >　=　<　<　>　<

8. 看了的页数　120 − 4 × 24 = 24（页）

9. 7：00　20：00　13

10. 60　22

二、1. √　2. √　3. ×　4. √　5. ×

三、1. C　2. C　3. C　4. C

5. A　**【点拨】** 11 ÷ 4 = 2（个）……3（厘米）

四、1. 800　$\frac{6}{10}$　550　$\frac{2}{7}$　84　0.4　0.8

4000

2. 78 × 49 = 3822

$$\begin{array}{r} 78 \\ \times\ 49 \\ \hline 702 \\ 312 \\ \hline 3822 \end{array}$$

验算：

$$\begin{array}{r} 49 \\ \times\ 78 \\ \hline 392 \\ 343 \\ \hline 3822 \end{array}$$

60 × 54 = 3240

$$\begin{array}{r} 54 \\ \times\ 60 \\ \hline 3240 \end{array}$$

47 × 36 = 1692

$$\begin{array}{r} 47 \\ \times\ 36 \\ \hline 282 \\ 141 \\ \hline 1692 \end{array}$$

验算：

$$\begin{array}{r} 36 \\ \times\ 47 \\ \hline 252 \\ 144 \\ \hline 1692 \end{array}$$

3.9 + 2.7 = 6.6

$$\begin{array}{r} 3.9 \\ +\ 2.7 \\ \hline 6.6 \end{array}$$

3. 95 ÷ 5+127
=19+127
=146

（708+258）÷ 6
=966 ÷ 6
=161

800−16 × 9
=800−144
=656

18 ×（537−448）
=18 × 89
=1602

五、1.

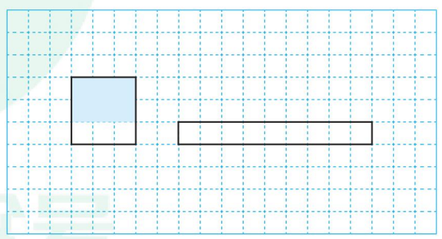

2. 制作月历略　（1）4　（2）22

六、1. 52 × 39 = 2028（元）

2028 > 2000

答：带 2000 元不够。

2. 1 元 8 角 = 1.8 元

2.1 − 1.8 = 0.3（元）

答：笑笑的一个桃子比跳跳的一个桃子便宜 0.3 元。

3. 30 − 20 = 10（厘米）

20 − 10 = 10（厘米）

10 × 10 = 100（平方厘米）

答：这时剩下的图形是正方形，它的面积是 100 平方厘米。

4.（1）8　6　4　2　13　7

（2）成绩最好的是 4 号同学，最差的是 14 号同学。

95 − 48 = 47（分）

答：他们相差 47 分。

（3）20 人　在 85 ~ 100 分的人数最多。

附加题：3.2 − 1.7 = 1.5（千克）

1.5 + 1.5 = 3（千克）

3.2 − 3 = 0.2（千克）

答：苹果重 3 千克，篮子重 0.2 千克。

期末复习冲刺卷

江苏省某名校期末测试卷

一、1. 4　3

2. 千米　千克　吨　平方分米

3. 4000　8000　3.7　10　$\frac{12}{60}$

4. $\frac{1}{4}$　9

5. $\frac{1}{3}$　$\frac{7}{10}$　$\frac{3}{10}$

6. 19 时　下午 2 时

7. 30　50

8.（1）2.1　（2）5.4　4.5

关注微信公众号“教辅资料站”获取更多学习资料

9. 0.3　17.1　不能

二、1. A　2. B　3. C　4. C　5. A

6. C　7. A

三、1. 40　37　4000　7.7　12　30　1　$\frac{3}{5}$

2. 4.8 + 1.7 = 6.5

$$\begin{array}{r} 4.8 \\ +\ 1.7 \\ \hline 6.5 \end{array}$$

72 × 50 = 3600

$$\begin{array}{r} 72 \\ \times\ 50 \\ \hline 3600 \end{array}$$

25 × 38 = 950

$$\begin{array}{r} 25 \\ \times\ 38 \\ \hline 200 \\ 75 \\ \hline 950 \end{array}$$

验算：

$$\begin{array}{r} 38 \\ \times\ 25 \\ \hline 190 \\ 76 \\ \hline 950 \end{array}$$

3. 30+70 × 8
=30+560
=590

200+560 ÷ 7
=200+80
=280

320 ÷ (4 × 2)
=320 ÷ 8
=40

四、1. (1) 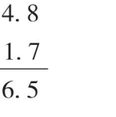　(2) $\frac{7}{16}$

2. 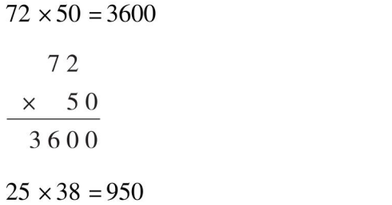

【点拨】长方形画法不唯一。

五、1. 100 − 4 × 5 = 80（千克）

答：这些梨一共有 80 千克。

2. 40 × 15 × 8 = 4800（棵）

答：这个大棚一共可以栽 4800 棵茄子苗。

3. $\frac{2}{8}+\frac{3}{8}=\frac{5}{8}$

64 ÷ 8 × 5 = 40（页）

答：两天一共看了 40 页。

4. (1) 18 ÷ 3 = 6（米）

6 × 6 = 36（平方米）

答：这块菜地的面积是 36 平方米。

(2) 36 ÷ 3 = 12（平方米）

36 − 12 = 24（平方米）

答：番茄和黄瓜的种植面积分别是 12 平方米、24 平方米。

5. 26.2 − 7.6 − 3.8 = 14.8（米）

答：还剩 14.8 米。

期末复习冲刺卷

山西省某名校期末测试卷

一、1. 140　120　70　1600　4800　4000

300　1.2　1000　0　600　$\frac{1}{7}$

2. 32 × 21 = 672

$$\begin{array}{r} 32 \\ \times\ 21 \\ \hline 32 \\ 64 \\ \hline 672 \end{array}$$

48 × 63 = 3024

$$\begin{array}{r} 48 \\ \times\ 63 \\ \hline 144 \\ 288 \\ \hline 3024 \end{array}$$

验算：

$$\begin{array}{r} 63 \\ \times\ 48 \\ \hline 504 \\ 252 \\ \hline 3024 \end{array}$$

50 × 36 = 1800

$$\begin{array}{r} 36 \\ \times\ 50 \\ \hline 1800 \end{array}$$

11.5 − 5.6 = 5.9

$$\begin{array}{r} 11.5 \\ -\ 5.6 \\ \hline 5.9 \end{array}$$

3. 96−48 ÷ 8
=96−6
=90

35 × 13+45
=455+45
=500

18 × (437−381)
=18 × 56
=1008

二、1. 千米　吨　厘米　分米　平方分米

2. 9　10　30　三

3. 500　3　0.7

4. 1800

5. 7　8

6. <　>　>　<

7. 50　1

8. $\frac{3}{5}$　$\frac{3}{10}$　$\frac{9}{10}$

9. (1) 2.1　1.4

(2) $\frac{1}{162}$　$\frac{1}{486}$

10. 6 × (7 − 3)

11. 40

12. 5　【点拨】差倍问题，妈妈 6 份，小红 1 份，相差 5 份，25 ÷ 5 = 5（岁）。

三、1. C　2. C　3. A　A　4. C　5. B

四、1. (1) 20　18

(2)

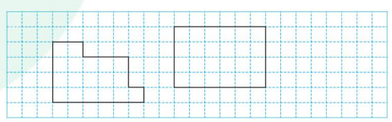

24　【点拨】(2) 题答案不唯一。

2. (1) 11　19

(2) 三 (2)　三 (1)

五、1. 38 × 62 = 2356（元）

2356 < 2500

答：钱够。

2. 2 × 4 × 365 = 2920（千克）

答：可以节约 2920 千克水，大约是 3 吨。

3. 下午 5 时 = 17 时

250 × (17 − 9) = 2000（本）

答：一天一共借出 2000 本图书。

4. 4 × 7 × 4 = 112（平方厘米）

答：这张长方形纸的面积是 112 平方厘米。

【点拨】把图形补完整，求出一共有多少个小正方形。

5. 2.6 + 4.5 = 7.1（元）

1.9 + 3.5 = 5.4（元）

答：买一把牙刷和一支牙膏最多花 7.1 元，最少花 5.4 元。

六、1. $\frac{1}{16}$　0.8

2. 1 + 3 = 4（份）

60 ÷ 4 = 15（个）

3 − 1 = 2（份）

2 × 15 = 30（个）

答：小红比小强多写了 30 个大字。

关注微信公众号“教辅资料站”获取更多学习资料

好卷

小卷

- 周测培优卷（12套）
- 专项复习卷（5套）
- 满分压轴卷（2套）



三年级 数学

下（SJ版）

关注微信公众号“教辅资料站”获取更多学习资料



目录

周测培优卷

两位数乘两位数的口算、估算及笔算 …… 1

乘数末尾有0的乘法及用两步连乘解决实际问题 …… 3

千米和吨的认识 …… 5

从问题出发分析和解决实际问题 …… 7

两步计算的混合运算(含认识小括号)及应用 …… 9

年、月、日的认识及24时记时法 …… 11

求简单的经过时间 …… 13

面积含义和面积单位的认识 …… 15

长方形和正方形的面积计算和单位间的进率 …… 17

认识一个整体的几分之一及几分之几 …… 19

小数的初步认识、比较大小及简单的加减法 …… 21

简单数据的汇总、排序及分组 …… 23

专项复习卷

两位数乘两位数的笔算和两步混合运算 …… 25

年、月、日和千米、吨 …… 27

分数、小数的初步认识 …… 29

长方形和正方形的面积 …… 31

解决实际问题的策略和统计 …… 33

满分压轴卷

常考易错突破卷(一) …… 35

常考易错突破卷(二) …… 37

参考答案及点拨 …… 39

荣德基好卷

微信公众号 教辅资料站

关注微信公众号“教辅资料站”获取更多学习资料

周测培优卷 1

两位数乘两位数的口算、估算及笔算

班级_____ 姓名_____ 得分_____ 时间：40分钟 满分：100分

一、填空。（每空1分，共28分）

1. 估算 19 × 21 时，把 19 看作（　　），把 21 看作（　　），（　　）×（　　）=（　　），所以 19 × 21 ≈（　　）。

2. 计算 50 × 70 时，先算（　　）×（　　），再在积的末尾添上（　　）个0。

3. 最大的两位数与最小的两位数的积是（　　）。

4. 39 × 42 的积是（　　）位数，41 × 19的积是（　　）位数。

5. 25 × 38 的积的最高位在（　　）位上，15 的44 倍是（　　）。

6. 王师傅平均每小时做 18 个零件，那么工作 14 小时做了多少个零件？在括号里填上合适的数。

```
   1 8
 × 1 4
-------
   7 2 …… 工作（　）小时
          做（　）个零件
 1 8   …… 工作（　）小时
-------   做（　）个零件
 2 5 2 …… 工作（　）小时
          做（　）个零件
```

7. 在◯里填上“＞”“＜”或“＝”。

32 × 45 ◯ 23 × 54

39 × 19 ◯ 800

56 × 14 ◯ 28 × 14

25 × 25 ◯ 25 × 5 × 5

51 × 41 ◯ 2000

48 × 61 ◯ 3000

8. 要使□2 × 21 的积是三位数，□里可以填（　　）；若它的积是四位数，□里最小填（　　）。

二、选择。（将正确答案的字母填在括号里。每题1分，共4分）

1. 如果□是○的 15 倍，下面算式正确的是（　　）。

A. ○ ÷ 15 = □　B. ○ × 15 = □

C. 15 ÷ □ = ○

2. 一架飞机每分飞行 21 千米，每时大约飞行（　　）千米。

A. 210　B. 1200　C. 1800

3. 两位数乘两位数的积最大是（　　）。

A. 8100　B. 9900

C. 9801

4. 一张作文纸有 28 行，每行有 22 个格子，这张作文纸一共有（　　）个格子。

A. 616　B. 600　C. 626

三、计算。（共28分）

1. 直接写得数。（每题1分，共6分）

50 × 50 =　　80 × 30 =

60 × 30 =　　21 × 10 =

10 × 500 =　　20 × 40 =

荣德基好卷 微信公众号 教辅资料站

关注微信公众号“教辅资料站”获取更多学习资料

2. 估算小能手。(每题 1 分，共 6 分)

21 × 30 ≈　　72 × 9 ≈

53 × 68 ≈　　38 × 18 ≈

18 × 92 ≈　　89 × 12 ≈

3. 用竖式计算。(每题 3 分，共 12 分)

32 × 13 =　　27 × 56 =

43 × 58 =　　25 × 17 =

4. 下面的计算对吗？把不对的改正过来。(每题 2 分，共 4 分)

```
  28          48
×  24        × 65
-----       -----
 112         240
416          288
-----       -----
4272 (  )   528 (  )
```

四、解决问题。(共 40 分)

1. 小王每天可加工 35 个零件，他今年 3 月份共可加工多少个零件？(12 分)

2. 学校想组织 684 名同学去看电影，电影院共有 25 排座位，每排有 28 个座位，这些学生能看同一场电影吗？(13 分)

3. 估一估，算一算。

		
每分钟大约飞行 28 米	每分钟大约飞行 32 米	每分钟大约飞行 31 米

(1) 蜜蜂 30 分钟大约飞行多少米？(5 分)

(2) 蜻蜓 38 分钟大约飞行多少米？(5 分)

(3) 小鸟 1 小时大约飞行多少米？(5 分)

荣德基好卷

关注微信公众号“教辅资料站”获取更多学习资料

周测培优卷 2
乘数末尾有0的乘法及用两步连乘解决实际问题

班级_____ 姓名_____ 得分_____ 时间：40分钟 满分：100分

一、填空。（每空 2 分，共 30 分）

1. 27 的 30 倍是（　　），16 个 30 的和是（　　）。
2. 与 39 相邻的两个两位数的积是（　　），20 × 69 的积是（　　）位数。
3. 34 × 50 的积的末尾有（　　）个 0，最高位在（　　）位。
4. 小芳每分钟打 18 个字，照这样的速度，10、15、20、25 分钟各打多少个字？填入下表。

时间/分钟	1	10	15	20	25
字数	18				

5. 学校运来 60 桶纯净水，每桶水重 19 千克，这些水一共重（　　）千克。
6. 买下面三种球各需要多少钱？把表格补充完整。

球	每个的钱数	个数	总钱数
	45	20	
	35	20	
	30	15	

7. 一个小区有 36 幢楼，每幢有 6 层，每层有 8 户人家，该小区一共有（　　）户人家。

二、判断。（对的在括号里打“√”，错的打“×”。每题 1 分，共 5 分）

1. 84 × 50 的积的末尾只有 1 个 0。（　　）
2. 两个乘数的末尾都没有 0，乘得的积的末尾就没有 0。（　　）
3. 24 × 6 × 5 的积与 24 × 30 的积相等。（　　）
4. 52 × 20 的积的最高位是千位，最高位上是 5。（　　）
5. 如果甲 × 10 = 乙 × 12，那么甲 > 乙。（　　）

三、计算。（共 14 分）

1. 直接写得数。（每题 0.5 分，共 6 分）

40 × 50 =	72 × 10 =
15 × 20 =	30 × 32 =
12 × 40 =	10 × 60 =
80 × 40 =	220 × 3 =
44 × 20 =	70 × 13 =
24 × 20 =	30 × 90 =

2. 用竖式计算。（每题 2 分，共 8 分）

78 × 40 =　　75 × 42 =

48 × 30 =　　34 × 26 =

荣德基好卷

关注微信公众号“教辅资料站”获取更多学习资料

四、解决问题。（共 51 分）

1. 全校 30 个班一起回收旧电池，平均每个班回收了 22 节旧电池，一共回收了多少节旧电池？（7 分）

2. 每筒羽毛球有 12 个，每个羽毛球 2 元。



（1）这些羽毛球一共有多少个？（4 分）

（2）买这些羽毛球一共要多少钱？（4 分）

3. 这头大象的体重是多少千克？（7 分）



4. 学校图书角有 4 个书架，每个书架有 5 层，每层有 40 本图书。图书角一共有多少本图书？（7 分）

5. 一个正方形池塘，边长 25 米，王叔叔每天早晨绕池塘的边走 18 圈，一共走了多少米？（7 分）

6. 35 只青蛙 2 天能捉多少只害虫？（7 分）



7. 小明计划 20 天看完一本书，平均每天看 37 页，你知道他第 17 天从第几页开始看吗？（8 分）

荣德基好卷

关注微信公众号“教辅资料站”获取更多学习资料

周测培优卷 3

千米和吨的认识

班级_____ 姓名_____ 得分_____ 时间：40分钟 满分：100分

一、填空。（第9题每小题3分，其余每空1分，共34分）

1. 千米、米、分米、厘米、毫米都是（　　）单位，吨、千克、克都是（　　）单位。
2. 50千克的80倍是（　　）吨，2吨是400千克的（　　）倍。
3. 一桶油重200千克，（　　）桶这样的油重1吨。
4. 1袋水泥重50千克，10袋这样的水泥重（　　）千克，（　　）袋这样的水泥重1吨。
5. 在○里填上“>”“<”或“=”。

   3000米○4千米

   7千米○6500米

   4000米○4千米

   5000千克○5吨

   3500千克○4吨

   8吨○8001千克

   9388 m○10 km
6. 小明骑自行车每分钟行驶250米，他8分钟能行驶（　　）米，是（　　）千米。
7. 4吨 = （　　）千克

   6000米 = （　　）千米

   3千米 = （　　）米

   7000千克 = （　　）吨

   10米 = （　　）厘米

   9000克 = （　　）千克
8. 在括号里填上合适的单位名称。

   一艘轮船载重是45（　　）。

   轮船每小时行驶30（　　）。

   两头奶牛大约重1（　　）。

   一头狮子重200（　　）。

   世界上最长的运河是京杭大运河，全长1794（　　）。

   南京长江大桥长约6772（　　）。
9. 按从小到大的顺序排列。

   （1）4千米　5005米　4050米　4500分米　5千米

   _____

   （2）8200千克　4吨230千克　8千克　8吨

   _____

二、判断。（对的在括号里打“√”，错的打“×”。每题2分，共10分）

1. 杭州到北京的公路长约1360米。（　　）
2. 一架飞机重15吨。（　　）
3. 3吨铁比3吨棉花重。（　　）
4. 长跑比赛中，每个同学要跑3000千米。（　　）
5. 一辆载重5吨的卡车，装了60台重85千克的机器，没有超载。（　　）

荣德基好卷

关注微信公众号“教辅资料站”获取更多学习资料

三、选择。（将正确答案的字母填在括号里。每题2分，共8分）

1. 一个饭店一天用水500（　　），一个月用水15（　　）。

A. 克　　B. 千克　　C. 吨

2. 国际学校运动场跑道长400米，跑5圈一共跑了（　　）千米。

A. 2　　B. 80　　C. 2000

3. 马老师体重85千克，大约（　　）个马老师重1吨。

A. 2　　B. 12　　C. 20

4. 长城长约7000（　　），马老师开车从家到学校行驶7000（　　）。

A. cm　　B. m　　C. km

四、把每小时行的路程和合适的出行方式用线连接起来。（8分）



800千米　60千米　4千米　15千米

五、解决问题。（共40分）

1. 商店原来有3吨大米，又运来4200千克，计划9天卖完，平均每天要卖多少千克？（7分）

2. 现有1吨食用油，如果全部用桶装，一共可以装多少桶？（7分）



净重：5千克

3. 一列火车以每小时95千米的速度行驶13小时，一共行驶了多少千米？（8分）

4. 浩浩家与学校相距500米，他每天上学要走两个来回，浩浩每天要走多少千米？（9分）

5. 一个工程队第一天修路350米，第二天比第一天多修300米。这个工程队两天共修路多少米？合多少千米？（9分）

荣德基好卷

关注微信公众号“教辅资料站”获取更多学习资料

周测培优卷 4
从问题出发分析和解决实际问题

班级_____ 姓名_____ 得分_____ 时间：40分钟 满分：100分

一、填空。（每空 2 分，共 30 分）

1. 冬冬今年 7 岁，爷爷的岁数是他的 9 倍，爷爷今年（　　）岁，爷爷比冬冬大（　　）岁。
2. 小白兔拔了 34 个萝卜，小黑兔比小白兔少拔 8 个，两只小兔一共拔了（　　）个萝卜。
3. 一个工人每天加工 24 个零件，12 个工人 3 天能加工（　　）个零件。
4. 妈妈买丝巾用去 36 元，又买了 3 只发卡，每只 18 元，妈妈一共用去了（　　）元。
5. 超市运来 3 箱鲜橙汁，每箱 12 瓶，每瓶 8 元，可以列式计算总价：（　　），结果是（　　）元。
6. 国际学校小报告厅有 20 排座位，每排有 26 个座位，三年级共有 406 名学生参加活动，还剩多少个座位？

   还剩的座位数 =（　　）－（　　），（　　）是已经知道的，（　　）是未知的，所以要先算出（　　），列式是（　　），再算出（　　），列式是(　　)。

二、选择。（将正确答案的字母填在括号里。每题 2 分，共 6 分）

1. 平均每个同学体重 25 千克，（　　）个同学重 1 吨。

   A. 40　　B. 4　　C. 400

2. 一个排球 42 元，一个足球的价格是一个排球的 3 倍，买一个足球和一个排球一共要（　　）元。

   A. 45　　B. 168　　C. 126

3. 计算小能手学习小组有 6 个人，他们约定每人每天做 8 道计算题，10 天一共可以做多少道计算题？列式正确的是（　　）。

   A. 8×10　　B. 8×6

   C. $8\times6\times10$

三、先根据问题补充条件，再解答。（每题 6 分，共 12 分）

1. 明明的身高是 125 厘米，_____，成成比红红高 12 厘米，成成的身高是多少厘米？

2. 同学们植了 3 行杨树，_____，又植了 24 棵柳树。植的杨树比柳树少几棵？

荣德基好卷

关注微信公众号“教辅资料站”获取更多学习资料

四、看图列式计算。（每题4分，共16分）

1.

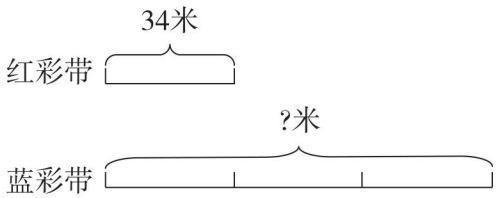

2.

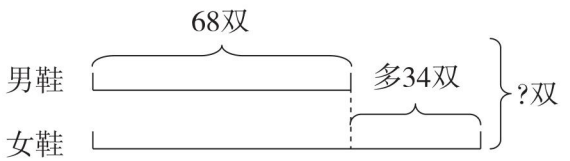

3.

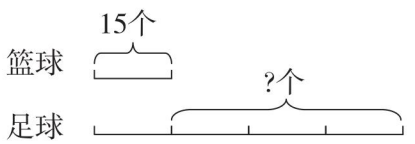

4.

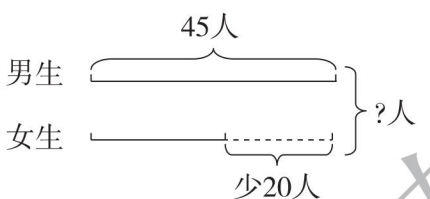

五、解决问题。（共36分）

1. 现在树林里有24只小鸟，已经飞走的只数是剩下的2倍，原来树林里有多少只小鸟？（8分）

2. 跳绳的有多少人？（9分）

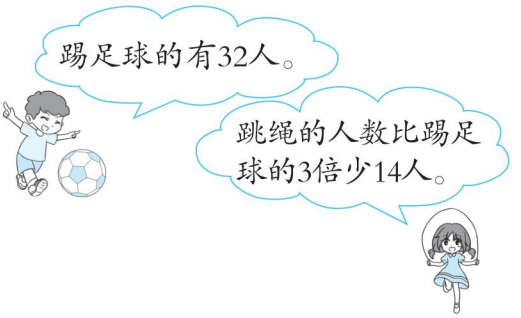

3. 花园新村新建了5幢大楼，每幢有3个单元，每个单元可以住18户。花园新村一共可以住多少户？（9分）

4.



（1）李阿姨买1顶帽子和60双袜子，一共要花多少元？（5分）

（2）周阿姨买12个书包，付出500元，应找回多少元？（5分）

荣德基好卷

关注微信公众号“教辅资料站”获取更多学习资料

周测培优卷 5
两步计算的混合运算（含认识小括号）及应用

班级_____ 姓名_____ 得分_____ 时间：40分钟 满分：100分

一、填空。（7题6分，其余每空2分，共32分）

1. 在没有括号的算式里，有乘除法和加减法，应先算（　　）法，后算（　　）法。
2. 68与12的和再乘40，计算的结果是（　　）。
3. 一本笔记本6元，王老师买了12本奖励给同学们，带了100元，应该找回（　　）元。
4. 把35＋15＝50，50×40＝2000合并成综合算式是（　　）。
5. 给算式75－25×2加上小括号，先算减法再算乘法，可以写成(　　)。
6. 在○里填上“＞”“＜”或“＝”。

   90÷9＋1 ○ 90÷(9＋1)

   770－(530－230) ○ 770－(530＋230)

   540÷3÷2 ○ 540÷(3×2)

   180＋90÷5 ○ (180＋90)÷5
7. 先在框里填上合适的数，再写出综合算式。

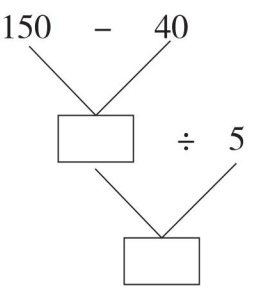

综合算式：_____

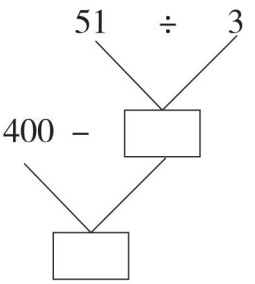

综合算式：_____

8. 小闯在计算“80＋△×5”时，先算加法，再算乘法，得到的结果是460。正确的结果是(　　)。
9. 文艺组有56名同学，英语组比文艺组的3倍少5人，英语组有(　　)人，英语组比文艺组多(　　)人。

二、选择。（将正确答案的字母填在括号里。每题2分，共8分）

1. 要表示“600减去36的差除以4，商是多少”，正确的列式是（　　）。

   A. (600－36)÷4

   B. 600－36÷4

   C. 600÷4－36
2. 下面的算式中，最后一步算乘法的是（　　）。

   A. 162÷(2×3)

   B. 38＋12×6

   C. (290－186)×25
3. 下面算式中（　　）的小括号去掉后，计算结果并不改变。

   A. 16×(16＋4)

   B. 80－(46－15)

   C. 15×(25÷5)

荣德基好卷

关注微信公众号“教辅资料站”获取更多学习资料

4. 如果□ + □ + □ = 24，□ × ☆ = 40，则☆ = （　　）。

A. 8　　B. 5　　C. 4

三、计算。（共 30 分）

1. 下面每题先算什么，用横线表示出来。（每题 1 分，共 6 分）

72 − 4 × 15　　27 × 3 + 20

56 ÷ 8 × 20　　24 + 36 ÷ 6

360 ÷ (12 ÷ 2)　　(80 − 30) × 4

2. 脱式计算。（每题 3 分，共 18 分）

540 − (397 − 254)　　445 ÷ 5 × 6

26 × (59 − 20)　　(500 − 50) ÷ 5

380 − 113 × 3　　180 + 25 × 18

3. 算“24 点”。（每题 2 分，共 6 分）

（1）7　4　2　8

（2）3　4　2　6

（3）1　1　1　8

四、解决问题。（共 30 分）

1. 小林读一本 156 页的故事书，第一天读了 36 页，剩下的要 3 天读完，剩下的平均每天要读多少页？（8 分）

2. 新华村农家书屋里有故事书 139 本，科技书的本数比故事书多 201 本。农家书屋里的科技书和故事书一共有多少本？（8 分）

3. 小林从家经过学校走到小芳家共用了 9 分钟。

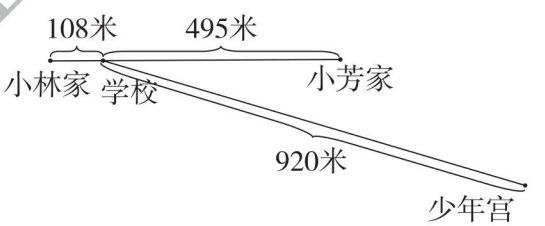

（1）小林平均每分钟走多少米？（7 分）

（2）用同样的速度，小林 12 分钟能从学校走到少年宫吗？（7 分）

荣德基好卷

关注微信公众号“教辅资料站”获取更多学习资料

周测培优卷 6
年、月、日的认识及24时记时法

班级_____ 姓名_____ 得分_____ 时间：40分钟 满分：100分

一、填空。（每空1分，共33分）

1. 闰年二月有（　　）天，闰年第一季度有（　　）天，闰年全年有（　　）天。
2. 六一儿童节在第（　　）季度，这个月共有（　　）天，是（　　）个星期零（　　）天。
3. 一年中连续的两个大月是（　　）月和（　　）月。
4. 在1900年、1920年、1921年、1996年、2000年、2100年中，（　　）是平年，（　　）是闰年。
5. 通常每4年里有（　　）个平年，（　　）个闰年。
6. 用24时记时法表示下面的时刻。
   上午9：00（　　）
   下午3：20（　　）
   中午12：00（　　）
   早上6：10（　　）
   晚上8：00（　　）
   晚上11：30（　　）
7. 用普通记时法表示下面的时刻。
   7：00（　　）
   14：30（　　）
   11：00（　　）
   18：40（　　）
   22：00（　　）
   9：15（　　）
8. 爸爸连续出差离家62天正好是2个月，这两个月是（　　）月和（　　）月或者（　　）月和（　　）月。
9. 中央电视台一套首播的新闻联播节目，开播时间是晚上（　　），结束时间是晚上（　　），用24时记时法表示是（　　）开始，（　　）结束。

二、判断。（对的在括号里打“√”，错的打“×”。每题1分，共5分）

1. 小刚的生日正好是在2月30日。（　　）
2. 平年和闰年下半年的天数是一样多的。（　　）
3. 夜里12时也就是第二天的0时。（　　）
4. 2300年是闰年。（　　）
5. 公历年份数是4的倍数的一定是闰年。（　　）

三、猜一猜。（请根据提示猜出下面每人的生日）（每题2分，共12分）

1. 小明：“我的生日是11月的最后一天。”（　　）
2. 小华：“我的生日是第三季度的第三天。”（　　）
3. 小军：“我的生日跟党的生日是同一天。”（　　）

荣德基好卷

关注微信公众号“教辅资料站”获取更多学习资料

4. 小亮：“我的生日是一年的倒数第五天。”（　　）

5. 小红：“我四年才过一个生日。”（　　）

6. 小丽：“我的生日是上半年的倒数第2天。”（　　）

四、动手做一做。（13分）

2019年9月8日是星期日，你能根据此信息制作一个9月份的月历吗？

根据此月历，我知道了：9月有（　　）天，9月一共有（　　）个星期零（　　）天，9月18日是星期（　　）。8月30日是星期（　　），2019年的劳动节是星期（　　）。

五、解决问题。（共37分）

1. 小明每天写16个大字，照这样计算，小明10月份从25日到月尾，一共写了多少个大字？（7分）

2. 闰年的2月有几个星期零几天？（7分）

3. 照这样计算，玲玲4月份一共做了多少道口算题？（7分）



玲玲

4. 明明家平均每个季度交水费35元，每个月交电话费28元。明明家一年交水费和电话费一共要多少元？（8分）

5. 2022年第24届冬季奥林匹克运动会在北京举办，这一年是平年还是闰年？全年有多少天？（8分）

荣德基好卷

关注微信公众号“教辅资料站”获取更多学习资料

周测培优卷 7

求简单的经过时间

班级_____ 姓名_____ 得分_____ 时间：40分钟 满分：100分

一、填空。（每空2分，共34分）

1. 小明做作业的时间是17：00到19：00，他是从下午（　　）时开始，晚上（　　）时完成作业，一共用去（　　）小时。
2. 朝九晚五工作是指每天上午9时上班，下午5时下班。照这样计算，每天上班到下午下班一共经过（　　）小时。
3. 一节课40分钟，上午第一节课8时10分上课，（　　）时（　　）分下课。下午第一节课1时50分上课，下午（　　）时（　　）分下课。
4. 小玲每天8：00到校，中午11：00放学，下午1：00到校，下午4：00放学，小玲在学校的时间是（　　）小时。
5. 一辆汽车平均每小时行驶100千米，从上午9时到下午1时，一共行驶了（　　）千米。
6. 邮递员每天从邮箱取3次信，上午8时30分第一次取信，以后每隔4小时30分取一次信，用24时记时法表示3次取信的时间为（　　）、（　　）、（　　）。妈妈要寄一封信，她最迟在下午（　　）时（　　）分之前投信，才能赶上邮递员当天取走信。
7. 爸爸上午8时上班，工作8小时，中午休息1小时，到（　　）下班。
8. 小红晚上9时睡觉，早上7时起床，她一共睡了（　　）小时。

二、判断。（对的在括号里打“√”，错的打“×”。每题2分，共8分）

1. 下午5时，就是15时。（　　）
2. 从上午8：00到晚上8：00，共经过了12小时。（　　）
3. 周爷爷10分钟能写15个毛笔字，他1小时能写150个毛笔字。（　　）
4. 小朋友每天在校时间为6小时，可记作6：00。（　　）

三、选择。（将正确答案的字母填在括号里。每题2分，共8分）

1. 下面表示经过时间的是（　　）。
   A. 上午10时出发
   B. 午睡1小时
   C. 下午6：30
2. 王达晚上7时到20时30分做作业，做作业一共用去（　　）。
   A. 1小时30分　B. 13时30分
   C. 1小时
3. 超市的营业时间是上午7：30到晚上9：00，超市一天的营业时间是（　　）。
   A. 12小时　B. 14小时30分
   C. 13小时30分

荣德基好卷

关注微信公众号“教辅资料站”获取更多学习资料

4. 一列火车从上午7：00出发，从南京开往上海用了5小时，则到上海的时间是（　　）。

A. 11：00

B. 12：00

C. 13：00

四、根据表格完成下面各题。（6分）

第一节课	8：10～8：50
做操、大课间活动	8：50～9：10
第二节课	9：10～9：50
课间活动（含眼保健操5分钟）	9：50～10：05
第三节课	10：05～10：45

（1）永红小学第一节课的时间是（　　）分钟。

（2）做操、大课间活动的时间是（　　）分钟。

（3）第二节课与第三节课之间的课间活动时间是（　　）分钟。

五、解决问题。（共44分）

1. 从上午8时到下午4时，图书馆共借出320本书，平均每小时借出多少本书？（11分）

2. 小星6：35从家出发，6：40到校，平均每分钟走62米。小星家离学校有多少米？（11分）

3. 火车上午9时从上海出发，行驶10小时到达泰山，到达泰山时是几时？（11分）

4. 算出各饭店的营业时间。

咏梅大排档	九里香饭店
17：30～次日2：30	10：30－14：30 18：30－21：00

哪家营业时间长？（11分）

荣德基好卷

关注微信公众号“教辅资料站”获取更多学习资料

周测培优卷 8
面积含义和面积单位的认识

班级_____ 姓名_____ 得分_____ 时间：40分钟 满分：100分

一、填空。（每空 2 分，共 34 分）

1. 物体表面或平面图形的大小，叫作它们的（　　）。

2. 在括号里填上适当的单位名称。
一张邮票的面积约为 4（　　）。
我们学校操场的面积约是 6000（　　）。
教室的门大约高 200（　　），面积大约是 200（　　）。
小明家到学校的路程是 500（　　）。
房间地面的面积是 24（　　）。
课桌面的面积大约是 24（　　）。
一幢楼房高 18（　　），占地 630（　　）。

3. 手掌和桌面相比，（　　）的面积比较大。

4. 测量橡皮表面的面积用（　　）作单位比较合适，测量防盗门表面的面积用（　　）作单位比较合适。

5. 边长为 1 厘米的正方形的面积是（　　），边长为（　　）分米的正方形的面积是 1 平方分米。

6. 下面图形中每个小正方形的面积是 1 平方厘米，你能求出它们的面积和周长吗？

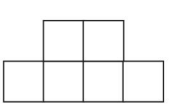

面积：（　　）
周长：（　　）

二、判断。（对的在括号里打“√”，错的打“×”。每题 2 分，共 8 分）

1. 1 米的长度要比 1 平方米的面积小很多。（　　）

2. 一块黑板的面积大约是 6 平方分米。（　　）

3. 小红家客厅大约有 6 平方分米。（　　）

4. 我们教室的面积大约有 60 平方米。（　　）

三、选择。（将正确答案的字母填在括号里。每题 2 分，共 10 分）

1. 1 块手帕的面积约为 4（　　）。
A. 平方分米
B. 平方米
C. 平方厘米

2. 测量身高用（　　）作单位，测量操场的面积用（　　）作单位。
A. 平方厘米　　B. 厘米
C. 平方米

3. 老师用 5 块边长为 1 米的正方形木板拼成一个长方形的大木板，大木板的面积是（　　）。
A. 5 米
B. 5 平方米
C. 10 平方米

4. 1 平方米大约可以容纳（　　）个小朋友。
A. 5　　B. 13　　C. 30

关注微信公众号“教辅资料站”获取更多学习资料

5. 下面长方形中阴影部分和空白部分的（　　）。

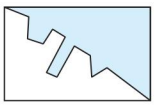

A. 周长相等，面积不相等

B. 面积相等，周长不相等

C. 面积和周长都相等

四、操作题。（共 48 分）

1. 下面方格纸上每一小格的面积是 1 平方厘米，画两个面积是 16 平方厘米但形状不同的图形。（6 分）

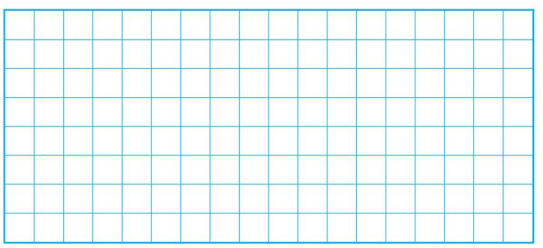

2. 写出下面各图形的面积。（每一小格的面积是 1 平方厘米）（6 分）

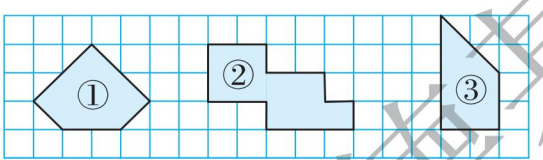

图①的面积是（　　）平方厘米。

图②的面积是（　　）平方厘米。

图③的面积是（　　）平方厘米。

3. 下面图形中的空白部分的面积分别是多少？（每一小格的面积是 1 平方厘米）（10 分）

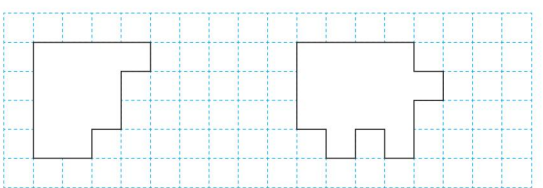

4. 在下面六个图形中，给面积最大的涂上绿色，最小的涂上红色。（10 分）

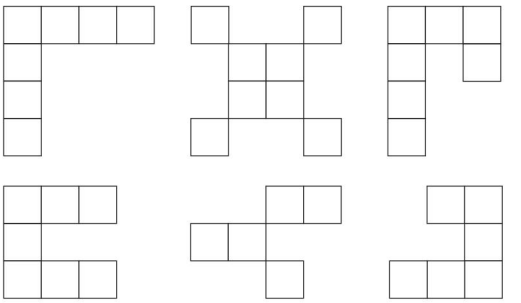

5. 求下面图形的周长和面积。（每个小方格的面积是 1 平方厘米）（8 分）

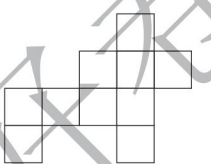

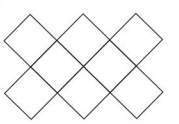

6. 下面这个图形是由面积为 4 平方厘米的小方格拼成的。你知道这个图形的面积是多少吗？（8 分）

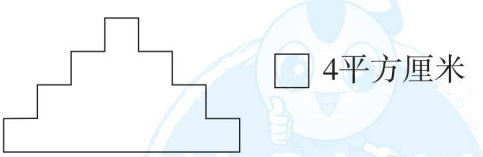

荣德基好卷

关注微信公众号“教辅资料站”获取更多学习资料

周测培优卷 9
长方形和正方形的面积计算和单位间的进率

班级_____ 姓名_____ 得分_____ 时间：40分钟 满分：100分

一、填空。（每空 2 分，共 36 分）

1. 在括号里填上合适的数。
   4 平方米 = （　　）平方分米
   7 分米 = （　　）厘米
   3500 平方厘米 = （　　）平方分米
   9000 平方分米 = （　　）平方米
   700 平方分米 = （　　）平方米 = （　　）平方厘米
2. 一张长方形的纸长是 8 厘米，宽是 5 厘米，面积是（　　）。
3. 一块长方形玻璃的长是 4 米，比宽多 1 米，这块长方形玻璃的面积是（　　）平方米，也就是（　　）平方分米。
4. 一个长方形的面积是 42 平方分米，长是 7 分米，宽是（　　）。
5. 一个正方形的周长是 12 厘米，它的面积是（　　）平方厘米。
6. 用（　　）个 1 平方厘米的正方形可以拼成 1 个 1 平方分米的大正方形。1 个 1 平方米的正方形可以剪成（　　）个 1 平方分米的正方形。
7. 张丽用 6 个边长为 1 厘米的正方形拼成一个长方形，拼出长方形的面积是（　　），周长是（　　）或（　　）。
8. 李华把一块边长为 6 分米的正方形玻璃割成大小相等的两块长方形玻璃，每块长方形玻璃的面积是（　　）平方分米，周长是（　　）分米。

二、判断。（对的在括号里打“√”，错的打“×”。每题 2 分，共 6 分）

1. 用 4 个边长为 1 厘米的小正方形拼成一个大正方形或长方形，它们的面积相等。（　　）
2. 一个正方形的边长扩大到原来的 2 倍，那么面积也扩大到原来的 2 倍。（　　）
3. 相邻两个面积单位之间的进率是 10。（　　）

三、选择。（将正确答案的字母填在括号里。每题 3 分，共 9 分）

1. 一个长方形的长是 8 分米，宽是 5 厘米，它的面积是（　　）。
   A. 40 平方分米
   B. 40 平方厘米
   C. 400 平方厘米
2. 至少用（　　）个同样的小正方形可以拼成一个较大的正方形。
   A. 4　　B. 8　　C. 9
3. 一张长方形铁皮的长是 6 分米，宽是 4 分米，从这张长方形铁皮上剪下一个最大的正方形，这个正方形的面积是（　　）。
   A. 24 平方分米
   B. 16 平方分米
   C. 36 平方分米

荣德基好卷

关注微信公众号“教辅资料站”获取更多学习资料

四、先测量相关数据，再求出每个图形的面积。（每题 4 分，共 8 分）

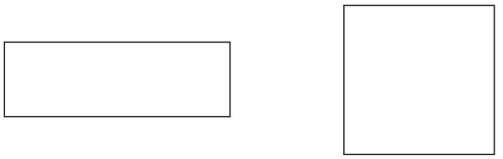

五、解决问题。（共 41 分）

1. 在一块长方形地里王大爷种了 3 种蔬菜（如图）。

（1）种青菜的面积是多少平方米？（4 分）

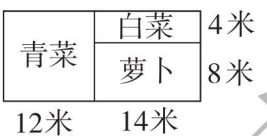

（2）种白菜的面积是多少平方米？（4 分）

（3）请再提出一个数学问题并解答。（4 分）

2. 一个长方形长 30 分米，比宽多 5 分米，这个长方形的面积是多少？（9 分）

3. 一个长方形桃园长 30 米，宽 18 米，如果每棵桃树占地 3 平方米。这个桃园一共能栽多少棵桃树？（10 分）

4. 小区前面有一块边长为 50 米的正方形空地，现要在空地的中间开辟一个长 32 米、宽 28 米的长方形花圃，其余部分植上草皮。

（1）花圃的面积是多少平方米？（5 分）

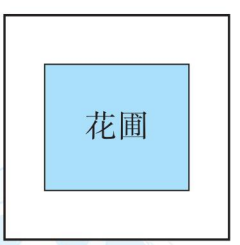

（2）草皮的面积是多少平方米？（5 分）

荣德基好卷

关注微信公众号“教辅资料站”获取更多学习资料

周测培优卷 10
认识一个整体的几分之一及几分之几

班级_____ 姓名_____ 得分_____ 时间：40分钟 满分：100分

一、填空。（每空2分，共36分）

1. 用分数表示每个图里的涂色部分。

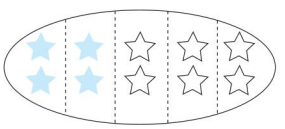

（　　）

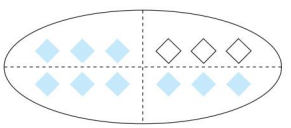

（　　）

2. 小明有4块巧克力，吃了2块，吃了的是原来总数的$\frac{(\quad)}{(\quad)}$。

3. 10个苹果，平均分成5份，取其中的3份，用分数表示就是$\frac{(\quad)}{(\quad)}$，其中3份是（　　）个苹果。

4. 4分米是1米的$\frac{(\quad)}{(\quad)}$；6厘米是100厘米的$\frac{(\quad)}{(\quad)}$。

5. 69支钢笔的$\frac{1}{3}$是（　　）支。

24小时的$\frac{3}{4}$是（　　）小时。

6. 有60盆月季花，平均分到4个班，每个班分到这些花的$\frac{(\quad)}{(\quad)}$，每个班分到（　　）盆花。

7. 在◯里填上“>”“<”或“=”。

3分米◯$\frac{3}{10}$米

7分米◯$\frac{8}{10}$米

5角◯$\frac{1}{2}$元

3角◯$\frac{5}{10}$元

8. 小芳做幸运星，做了6个红色的，3个蓝色的，还有1个绿色的。红色幸运星占总数的$\frac{(\quad)}{(\quad)}$，蓝色幸运星占总数的$\frac{(\quad)}{(\quad)}$，绿色幸运星占总数的$\frac{(\quad)}{(\quad)}$。

二、判断。（对的在括号里打“√”，错的打“×”。每题1分，共5分）

1. 把一篮苹果分成6份，每份占这篮苹果的$\frac{1}{6}$。（　　）

2. 1里面有10个$\frac{1}{10}$。（　　）

3. 把一条线段分成相等的7段，其中的4段是它的$\frac{4}{7}$。（　　）

4. 12的$\frac{1}{3}$和15的$\frac{1}{3}$相等。（　　）

5. 4角是$\frac{4}{10}$元。（　　）

三、口算。（每题1分，共10分）

$\frac{2}{3}-\frac{2}{3}=$　　$\frac{1}{10}+\frac{9}{10}=$

$\frac{5}{6}-\frac{2}{6}=$　　$\frac{4}{15}+\frac{3}{15}=$

荣德基好卷

关注微信公众号“教辅资料站”获取更多学习资料

$\frac{15}{16}-\frac{3}{16}=$　　$\frac{3}{7}+\frac{2}{7}=$

$\frac{1}{4}+\frac{1}{4}=$　　$\frac{2}{5}+\frac{1}{5}=$

$\frac{7}{10}-\frac{3}{10}=$　　$\frac{1}{8}+\frac{3}{8}=$

四、分一分，涂一涂，填一填。

（每题 4 分，共 8 分）

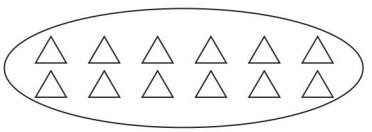

这些△的$\frac{1}{6}$是（　　）个。

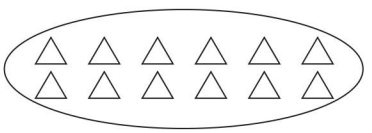

这些△的$\frac{2}{3}$是（　　）个。

五、看图填一填。（每题 3 分，共 6 分）

1. 下图中苹果的$\frac{1}{2}$是几个？



（　　）÷（　　）=（　　）（个）

2. 下图中花的$\frac{1}{4}$是几朵？



（　　）÷（　　）=（　　）（朵）

六、解决问题。（共 35 分）

1. 老师有 20 张星星卡，小华获得了星星卡的$\frac{1}{5}$，小丽获得了星星卡的$\frac{1}{2}$，他们分别获得了几张星星卡？（8 分）

2. 冬冬看一本《童话故事》，第一天看了$\frac{2}{8}$，第二天看了$\frac{3}{8}$。

（1）前两天共看了多少页？（3 分）



240页

（2）还剩多少页没看？（3 分）

（3）第三天应该从多少页开始看？（3 分）

3. 一盘草莓 30 个，小红已经吃了$\frac{1}{3}$，还剩多少个？（8 分）

4. 她们看的页数相同吗？（请把条件补充完整再解答）（10 分）



荣德基好卷

关注微信公众号“教辅资料站”获取更多学习资料

周测培优卷 11
小数的初步认识、比较大小及简单的加减法

班级_____ 姓名_____ 得分_____ 时间：40分钟 满分：100分

一、填空。（每空1分，共24分）

1. 把1米看成一个整体，把它平均分成10份，其中的1份用小数表示是（　　）米。
2. 2.7读作（　　），整数部分是（　　），小数部分是(　　)。
3. 读出或写出下面横线上的小数。

（1）一个布娃娃8.5元。读作（　　）。

（2）小娟家距离和平广场大约有0.8千米。读作(　　)。

（3）高林在学校举行的秋季运动会中，跳远成绩为一点五米。写作(　　)。

（4）第28届雅典奥运会上，中国选手朱启南在10米气步枪比赛中创造了七百零二点七环的世界纪录。写作(　　)。

4. 1里面有（　　）个0.1，0.8里面有（　　）个0.1。
5. 在括号里填上合适的小数。

7分米＝（　　）米

9元1角＝（　　）元

8角＝（　　）元

6米3分米＝（　　）米

6厘米＝（　　）分米

5厘米3毫米＝（　　）厘米

6. 比6.2少0.9的数是（　　），比6.2多0.9的数是（　　）。
7. 这些小数在哪两个相邻的整数之间？

（　　）＜13.4＜（　　）

（　　）＞10.6＞（　　）

8. 明明跑60米用了10.5秒，磊磊跑60米用了9.6秒，（　　）跑得快。
9. 一支中性笔的价格是1.5元，一支钢笔比一支中性笔贵6.9元，一支钢笔的价格是（　　）元。

二、判断。（对的在括号里打“√”，错的打“×”。每题2分，共10分）

1. 所有的小数都比整数小。（　　）
2. 7个0.1就是0.7。（　　）
3. 小数和整数一样，计算加、减法时要把相同数位对齐。（　　）
4. 用9、6、7这3个数组成一个最小的一位小数是76.9。（　　）
5. 在10.0、1.2、3.5、0.9这四个数中，0.9最大。（　　）

三、选择。（将正确答案的字母填在括号里。每题2分，共10分）

1. 把4分米5厘米写成用“分米”作单位的小数是（　　）分米。

A. 4.5　　B. 0.4　　C. 0.5

2. 按照下面这组数的排列规律，括号里应该填的数是（　　）。

0.2、0.5、0.8、（　　）、1.4、1.7

A. 0.9　　B. 1.1　　C. 1.3

荣德基好卷

关注微信公众号“教辅资料站”获取更多学习资料

3. 图（　　）的涂色部分可以用0.3表示。

A. 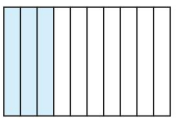　B. 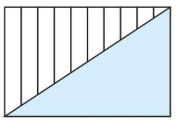

C. 

4. 一支圆珠笔的价格是4.6元，买2支需支付（　　）元。

A. 8.2　　B. 6.6　　C. 9.2

5. 一个加数增加0.4，另一个加数也增加0.4，它们的和（　　）。

A. 不变

B. 增加0.4

C. 增加0.8

四、用竖式计算。（每题3分，共12分）

7－2.8＝　　6.5－2.7＝

3.8＋6.9＝　　4.8＋0.6＝

五、解决问题。（共44分）

1. 前楼中心小学的同学利用周日时间采集树种，第一周采集了2.8千克，第二周采集的比第一周少0.3千克，两周一共采集了多少千克？（10分）

2. 一根绳子长14.5米，第一次用去7.6米，第二次用去3.8米。绳子比原来短了多少米？（11分）

3. 某天早上的气温是6.5℃，中午的气温比早上升高了3.1℃，晚上的气温比中午降低了4.5℃，这天晚上的气温是多少？（11分）

4. 王强买来10米长的铁丝，修鸡笼用去3.6米，做手工艺品用去2.2米。

（1）修鸡笼和做手工艺品一共用去多少米？（4分）

（2）铁丝还剩下多少米？合多少分米？（4分）

（3）剩下的铁丝围成一个长1.1米、宽0.9米的长方形，够不够？（4分）

荣德基好卷

关注微信公众号“教辅资料站”获取更多学习资料

周测培优卷 12
简单数据的汇总、排序及分组

班级_____ 姓名_____ 得分_____ 时间：40分钟 满分：100分

一、填空。（共50分）

1. 气象小组把6月份的天气进行了如下记录：（每空2分，共14分）

晴天 雨天 阴天

1	2	3	4	5	6	7	8	9	10
11	12	13	14	15	16	17	18	19	20
21	22	23	24	25	26	27	28	29	30

（1）把晴天、雨天、阴天的天数分别填在下面的统计表中。

天气名称	晴天	雨天	阴天
天数			

（2）从上表中可以看出：这个月中（　　）的天数最多，（　　）的天数最少。

（3）这个月中晴天比雨天多（　　）天。

（4）这个月中阴天比雨天多（　　）天。

2. 下面是某校三（1）班各学生参加户外活动收集矿泉水瓶个数情况，请按要求分段整理数据，并回答问题。（每空2分，共20分）

52 45 48 32 33 29 41 48
45 46 44 24 38 39 37 44
41 45 49 53 33 36 43 46

收集个数	21～30	31～40	41～50	51～60
人数				

（1）这个班收集矿泉水瓶个数在（　　）的人数最多，是（　　）。

（2）这个班收集数量最多的是（　　）个。

（3）这个班收集数量最少的是（　　）个。

（4）这个班（　　）段和（　　）段收集人数相同。

3. 下面分别是小明在下午1：00～2：00和3：00～4：00统计经过某一路段的车型表。

种类	客车	货车	面包车	小轿车
辆数	35	15	16	26

种类	客车	货车	面包车	小轿车
辆数	20	15	35	40

（1）请你将这两段时间内的车辆统计表合并汇总。（8分）

种类	客车	货车	面包车	小轿车
辆数				

根据汇总表回答问题：

（2）（　　）车的数量最多，（　　）车的数量最少，相差（　　）辆。（6分）

（3）经过这一路段的一共有（　　）辆车。（2分）

荣德基好卷

关注微信公众号“教辅资料站”获取更多学习资料

二、按要求做题。（共 50 分）

1. 小华收集了自己班女生 1 分钟跳绳的成绩。

序号	成绩/个	序号	成绩/个	序号	成绩/个	序号	成绩/个
1	72	5	88	9	55	13	76
2	85	6	95	10	76	14	104
3	45	7	100	11	36	15	101
4	16	8	98	12	87	16	99

（1）整理上表中的数据。（6 分）

成绩	50 个以下	50 ~ 84 个	84 个以上
人数			

（2）这个班女生 1 分钟跳绳的最好成绩是多少？最差的成绩呢？这两个成绩相差多少？（6 分）

（3）成绩在 85 个或 85 个以上为优秀，50 个以下为不及格，有多少人的成绩达到优秀？有多少人不及格？（7 分）

2. 下面是小明所在班一部分学生上学所用的时间，根据要求回答问题。

序号	时间/分	序号	时间/分	序号	时间/分	序号	时间/分
1	16	5	50	9	8	13	33
2	22	6	42	10	19	14	45
3	28	7	38	11	32	15	12
4	31	8	53	12	27	16	36

（1）将上表中的数据整理后填写到下表中：（6 分）

时间	20 分以下	20 ~ 40 分	40 分以上
人数			

（2）小明上学用 19 分钟，统计的人中有多少人上学途中用的时间比他多？有多少人用的时间比他少？（10 分）

3. 六年级同学参加金钥匙竞赛，成绩如下：（单位：分）

编号	成绩	编号	成绩	编号	成绩	编号	成绩
1	100	11	93	21	80	31	79
2	92	12	81	22	88	32	89
3	91	13	97	23	79	33	98
4	97	14	88	24	97	34	89
5	90	15	84	25	95	35	89
6	96	16	100	26	96	36	89
7	87	17	83	27	99	37	90
8	90	18	96	28	94	38	90
9	90	19	85	29	93	39	78
10	86	20	82	30	93	40	75

（1）根据上面数据，填写统计表。（6 分）

成绩/分	90 ~ 100	80 ~ 89	70 ~ 79
人数			

（2）如果特等奖是 3 人，一等奖是 7 人，二等奖是 12 人，请你把分数段填在括号中。（9 分）

特等奖（　　）分

一等奖（　　）分

二等奖（　　）分

荣德基好卷

关注微信公众号“教辅资料站”获取更多学习资料

荣德基 好卷

参考答案及点拨

三年级 数学 下 SJ版 （小卷）

周测培优卷 1

两位数乘两位数的口算、估算及笔算

一、1. 20　20　20　20　400　400

2. 5　7　2　3. 990

4. 四　三　5. 百　660

6. 4　72　10　180　14　252

7. ＞　＜　＞　＝　＞　＜

8. 4、3、2、1　5

二、1. B　2. B　3. C　4. A

三、1. 2500　2400　1800　210　5000　800

2. 600　720　3500　800　1800　900

3. $32\times13=416$

$$\begin{array}{r} 32 \\ \times\ 13 \\ \hline 96 \\ 32 \\ \hline 416 \end{array}$$

$27\times56=1512$

$$\begin{array}{r} 27 \\ \times\ 56 \\ \hline 162 \\ 135 \\ \hline 1512 \end{array}$$

$43\times58=2494$

$$\begin{array}{r} 43 \\ \times\ 58 \\ \hline 344 \\ 215 \\ \hline 2494 \end{array}$$

$25\times17=425$

$$\begin{array}{r} 25 \\ \times\ 17 \\ \hline 175 \\ 25 \\ \hline 425 \end{array}$$

4.

$$\begin{array}{r} 28 \\ \times\ 24 \\ \hline 112 \\ 56 \\ \hline \times\ 672 \end{array}$$

$$\begin{array}{r} 48 \\ \times\ 65 \\ \hline 240 \\ 288 \\ \hline \times\ 3120 \end{array}$$

四、1. 3月份有31天　$35\times31=1085$（个）

答：他今年3月份共可加工1085个零件。

2. $25\times28=700$（名）$700>684$

答：这些学生能看同一场电影。

3. （1）$30\times28\approx900$（米）

答：蜜蜂30分钟大约飞行900米。

（2）$38\times32\approx1200$（米）

答：蜻蜓38分钟大约飞行1200米。

（3）$31\times60\approx1800$（米）

答：小鸟1小时大约飞行1800米。

周测培优卷 2

乘数末尾有0的乘法及用两步连乘解决实际问题

一、1. 810　480　2. 1520　四

3. 2　千　4. 180　270　360　450

5. 1140　6. 900　700　450　7. 1728

二、1. ×　2. ×　3. √　4. ×　5. ×

三、1. 2000　720　300　960　480　600　3200

660　880　910　480　2700

2. $78\times40=3120$

$$\begin{array}{r} 78 \\ \times\ 40 \\ \hline 3120 \end{array}$$

$75\times42=3150$

$$\begin{array}{r} 75 \\ \times\ 42 \\ \hline 150 \\ 300 \\ \hline 3150 \end{array}$$

$48\times30=1440$

$$\begin{array}{r} 48 \\ \times\ 30 \\ \hline 1440 \end{array}$$

$34\times26=884$

$$\begin{array}{r} 34 \\ \times\ 26 \\ \hline 204 \\ 68 \\ \hline 884 \end{array}$$

四、1. $30\times22=660$（节）

答：一共回收了660节旧电池。

2. （1）$3\times6=18$（筒）

$18\times12=216$（个）

答：这些羽毛球一共有216个。

（2）$216\times2=432$（元）

答：买这些羽毛球一共要432元。

3. $92\times45=4140$（千克）

$4140+120=4260$（千克）

答：这头大象的体重是4260千克。

4. $4\times5\times40=800$（本）

答：图书角一共有800本图书。

5. $25\times4\times18=1800$（米）

答：一共走了1800米。

6. $49\times2\times35=3430$（只）

答：35只青蛙2天能捉3430只害虫。

7. $17-1=16$（天）

$16\times37=592$（页）

$592+1=593$（页）

答：他第17天从第593页开始看。

【点拨】求他第17天从第几页开始看，其实就是先求出前16天看多少页。

荣德基好卷

关注微信公众号“教辅资料站”获取更多学习资料

周测培优卷3

千米和吨的认识

一、1. 长度　质量　2. 4　5　3. 5

4. 500　20

5. <　>　=　=　<　<　<

6. 2000　2

7. 4000　6　3000　7　1000　9

8. 吨　千米　吨　千克　千米　米

9. （1）4500 分米 < 4 千米 < 4050 米 < 5 千米 < 5005 米

（2）8 千克 < 4 吨 230 千克 < 8 吨 < 8200 千克

二、1. ×　2. √　3. ×　4. ×

5. ×　【点拨】60 × 85 = 5100（千克）

5100 千克 > 5 吨

三、1. B　C　2. A　3. B　4. C　B

四、

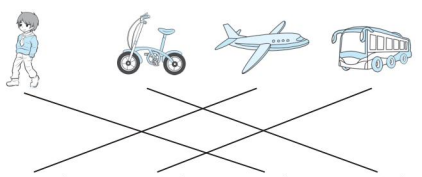

800千米　60千米　4千米　15千米

五、1. 3 吨 = 3000 千克

3000 + 4200 = 7200（千克）

7200 ÷ 9 = 800（千克）

答：平均每天要卖 800 千克。

2. 1 吨 = 1000 千克　1000 ÷ 5 = 200（桶）

答：一共可以装 200 桶。

3. 95 × 13 = 1235（千米）

答：一共行驶了 1235 千米。

4. 500 × 4 = 2000（米）　2000 米 = 2 千米

答：浩浩每天要走 2 千米。

【点拨】两个来回是 4 个 500 米。

5. 350 + 300 = 650（米）

650 + 350 = 1000（米）　1000 米 = 1 千米

答：这个工程队两天共修路 1000 米，合 1 千米。

周测培优卷4

从问题出发分析和解决实际问题

一、1. 63　56　2. 60　3. 864

4. 90　5. 3 × 12 × 8　288

6. 一共的座位数　已经坐的座位数　已经坐的座位数　一共的座位数　一共的座位数　20 × 26 = 520（个）　还剩的座位数　520 − 406 = 114（个）

二、1. A　2. B　3. C

三、1.（答案不唯一）红红比明明高 3 厘米

125 + 3 + 12 = 140（厘米）

答：成成的身高是 140 厘米。

2.（答案不唯一）　每行 4 棵

24 − 3 × 4 = 12（棵）

答：植的杨树比柳树少 12 棵。

四、1. 34 × 3 = 102（米）

2. 68 + 34 + 68 = 170（双）

3. 15 × 3 = 45（个）

4. 45 − 20 + 45 = 70（人）

五、1. 24 × 2 + 24 = 72（只）

答：原来树林里有 72 只小鸟。

2. 32 × 3 − 14 = 82（人）

答：跳绳的有 82 人。

3. 5 × 3 × 18 = 270（户）

答：花园新村一共可以住 270 户。

4.（1）60 × 4 + 10 = 250（元）

答：一共要花 250 元。

（2）500 − 12 × 40 = 20（元）

答：应找回 20 元。

周测培优卷5

两步计算的混合运算（含认识小括号）及应用

一、1. 乘除　加减

2. 3200　3. 28

4.（35 + 15）× 40 = 2000

5.（75 − 25）× 2

6. >　>　=　>

7. 110　22　（150 − 40）÷ 5 = 22

17　383　400 − 51 ÷ 3 = 383

8. 140　【点拨】先求出“△”代表的数是 12，再求出正确结果。

9. 163　107

二、1. A　2. C　3. C　4. B

来德基好卷

关注微信公众号“教辅资料站”获取更多学习资料

三、1. $72-4\times15$　$27\times3+20$　$56\div8\times20$
$24+36\div6$　$360\div(12\div2)$
$(80-30)\times4$

2. $540-(397-254)$　$445\div5\times6$
$=540-397+254$　$=89\times6$
$=143+254$　$=534$
$=397$

$26\times(59-20)$　$(500-50)\div5$
$=26\times39$　$=450\div5$
$=1014$　$=90$

$380-113\times3$　$180+25\times18$
$=380-339$　$=180+450$
$=41$　$=630$

3. （1）$7\times8\div2-4=24$
（2）$3\times6+2+4=24$
（3）$(1+1+1)\times8=24$
【点拨】（1）（2）题答案不唯一。

四、1. $(156-36)\div3=40$（页）
答：剩下的平均每天要读40页。

2. $139+201+139=479$（本）
答：农家书屋里的科技书和故事书一共有479本。

3. （1）$(108+495)\div9=67$（米）
答：小林平均每分钟走67米。
（2）$12\times67=804$（米）　$804<920$
答：小林12分钟不能从学校走到少年宫。

周测培优卷6

年、月、日的认识及24时记时法

一、1. 29　91　366
2. 二　30　4　2
3. 7　8
4. 1900年、1921年、2100年
1920年、1996年、2000年
5. 3　1
6. 9：00　15：20　12：00　6：10　20：00
23：30
7. 早上7：00　下午2：30　上午11：00
下午6：40　晚上10：00　早上9：15
8. 7　8　12　1　【点拨】连续两个大月的天数和是62天。
9. 7：00　7：30　19：00　19：30

二、1. ×　2. √　3. √　4. ×　5. ×

三、1. 11月30日　2. 7月3日
3. 7月1日　4. 12月27日
5. 2月29日　6. 6月29日

四、制作月历略　30　4　2　三　五　三

五、1. 从25日到月尾共7天　$16\times7=112$（个）
答：一共写了112个大字。

2. $29\div7=4$（个）……1（天）
答：闰年的2月有4个星期零1天。

3. $100\div5\times30=600$（道）
答：玲玲4月份一共做了600道口算题。

4. $35\times4=140$（元）　$28\times12=336$（元）
$336+140=476$（元）　答：明明家一年交水费和电话费一共要476元。

5. $2022\div4=505$……2
答：这一年是平年，全年有365天。

周测培优卷7

求简单的经过时间

一、1. 5　7　2　2. 8　3. 8　50　2　30
4. 6　5. 400
6. 8：30　13：00　17：30　5　30
7. 17：00　8. 10

二、1. ×　2. √
3. ×　【点拨】1小时可以写90个毛笔字。
4. ×

三、1. B　2. A
3. C　【点拨】换算成24时记时法。
4. B

四、（1）40　（2）20　（3）15

五、1. 上午8时$=8$时　下午4时$=16$时
$16-8=8$（时）　$320\div8=40$（本）
答：平均每小时借出40本书。

2. $40-35=5$（分钟）　$5\times62=310$（米）
答：小星家离学校有310米。

3. 上午9时$=9$时　$9+10=19$（时）
答：到达泰山时是19时。

关注微信公众号“教辅资料站”获取更多学习资料

4. 17：30 = 17 时 30 分

2：30 = 2 时 30 分

24 时 − 17 时 30 分 = 6 小时 30 分

6 小时 30 分 + 2 小时 30 分 = 9 小时

14：30 = 14 时 30 分

10：30 = 10 时 30 分

18：30 = 18 时 30 分

21：00 = 21 时

14 时 30 分 − 10 时 30 分 = 4 小时

21 时 − 18 时 30 分 = 2 小时 30 分

4 小时 + 2 小时 30 分 = 6 小时 30 分

9 小时 > 6 小时 30 分

答：咏梅大排档营业时间长。

周测培优卷 8

面积含义和面积单位的认识

一、1. 面积

2. 平方厘米　平方米　厘米　平方分米　米　平方米　平方分米　米　平方米

3. 桌面

4. 平方厘米　平方米

5. 1 平方厘米　1

6. 6 平方厘米　12 厘米

二、1. ×　2. ×　3. ×　4. √

三、1. A　2. B　C　3. B　4. B　5. A

四、1.

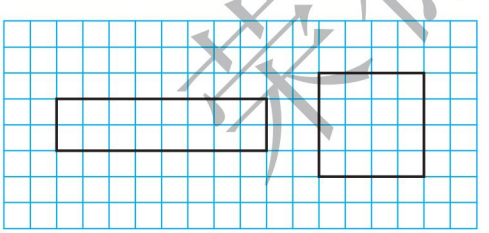

（答案不唯一）

2. 7　9　6

3. 12 平方厘米　15 平方厘米

4. 涂色略　【点拨】第 2 个涂绿色，第 5 个涂红色。

5. 20 厘米　10 平方厘米　16 厘米　8 平方厘米

6. 1 + 3 + 5 + 7 = 16（个）

16 × 4 = 64（平方厘米）

答：这个图形的面积是 64 平方厘米。

周测培优卷 9

长方形和正方形的面积计算和单位间的进率

一、1. 400　70　35　90　7　70000

2. 40 平方厘米　3. 12　1200

4. 6 分米　5. 9

6. 100　100

7. 6 平方厘米　14 厘米　10 厘米

【点拨】不管怎样摆，面积是一定的。

8. 18　18

二、1. √　2. ×　3. ×

三、1. C　2. A　3. B

四、长是 3 cm，宽是 1 cm。　3 × 1 = 3（cm^2）

边长是 2 cm。　2 × 2 = 4（cm^2）

五、1.（1）12 ×（4 + 8）= 144（平方米）

答：种青菜的面积是 144 平方米。

（2）14 × 4 = 56（平方米）

答：种白菜的面积是 56 平方米。

（3）种萝卜的面积是多少平方米？

14 × 8 = 112（平方米）

答：种萝卜的面积是 112 平方米。

【点拨】（3）题答案不唯一。

2. 30 ×（30 − 5）= 750（平方分米）

答：这个长方形的面积是 750 平方分米。

3. 30 × 18 ÷ 3 = 180（棵）

答：这个桃园一共能栽 180 棵桃树。

4.（1）32 × 28 = 896（平方米）

答：花圃的面积是 896 平方米。

（2）50 × 50 − 896 = 1604（平方米）

答：草皮的面积是 1604 平方米。

周测培优卷 10

认识一个整体的几分之一及几分之几

一、1. $\frac{2}{5}$　$\frac{3}{4}$　2. $\frac{2}{4}$

3. $\frac{3}{5}$　6　4. $\frac{4}{10}$　$\frac{6}{100}$

5. 23　18　6. $\frac{1}{4}$　15

7. =　<　=　<

8. $\frac{6}{10}$　$\frac{3}{10}$　$\frac{1}{10}$

关注微信公众号“教辅资料站”获取更多学习资料

二、1. × 2. √ 3. √ 4. × 5. √

三、0 1 $\frac{3}{6}$ $\frac{7}{15}$ $\frac{12}{16}$ $\frac{5}{7}$ $\frac{2}{4}$ $\frac{3}{5}$ $\frac{4}{10}$ $\frac{4}{8}$

四、分一分，涂一涂略。 2 8

五、1. 8 ÷ 2 = 4 2. 12 ÷ 4 = 3

六、1. 20 ÷ 5 = 4（张） 20 ÷ 2 = 10（张）

答：他们分别获得了 4 张和 10 张星星卡。

2.（1）$\frac{2}{8}+\frac{3}{8}=\frac{5}{8}$ 240 ÷ 8 × 5 = 150（页）

答：前两天共看了 150 页。

（2）240 − 150 = 90（页）

答：还剩 90 页没看。

（3）150 + 1 = 151（页）

答：第三天应该从 151 页开始看。

3. 30 − 30 ÷ 3 = 20（个）

答：还剩 20 个。

4. 120 150

小红：120 ÷ 3 = 40（页）

小芳：150 ÷ 3 = 50（页）

答：她们看的页数不相同。

【点拨】答案不唯一。

周测培优卷 11

小数的初步认识、比较大小及简单的加减法

一、1. 0.1

2. 二点七 2 7（或 0.7）

3.（1）八点五 （2）零点八

（3）1.5 （4）702.7

4. 10 8

5. 0.7 9.1 0.8 6.3 0.6 5.3

6. 5.3 7.1

7. 13 14 11 10

8. 磊磊 9. 8.4

二、1. × 2. √ 3. √ 4. × 5. ×

三、1. A 2. B 3. A 4. C 5. C

四、7−2.8=4.2

$$\begin{array}{r} 7 \\ -\ 2.8 \\ \hline 4.2 \end{array}$$

6.5−2.7=3.8

$$\begin{array}{r} 6.5 \\ -\ 2.7 \\ \hline 3.8 \end{array}$$

3.8+6.9=10.7

$$\begin{array}{r} 3.8 \\ +\ 6.9 \\ \hline 10.7 \end{array}$$

4.8+0.6=5.4

$$\begin{array}{r} 4.8 \\ +\ 0.6 \\ \hline 5.4 \end{array}$$

五、1. 2.8 − 0.3 + 2.8 = 5.3（千克）

答：两周一共采集了 5.3 千克。

2. 7.6 + 3.8 = 11.4（米）

答：绳子比原来短了 11.4 米。

3. 6.5 + 3.1 − 4.5 = 5.1（℃）

答：这天晚上的气温是 5.1℃。

4.（1）3.6 + 2.2 = 5.8（米）

答：修鸡笼和做手工艺品一共用去 5.8 米。

（2）10 − 5.8 = 4.2（米）

答：铁丝还剩下 4.2 米，合 42 分米。

（3）1.1 + 1.1 + 0.9 + 0.9 = 4（米）

4 < 4.2

答：够。

周测培优卷 12

简单数据的汇总、排序及分组

一、1.（1）12 8 10 （2）晴天 雨天

（3）4 （4）2

2. 2 7 13 2

（1）41 ~ 50 13

（2）53 （3）24

（4）21 ~ 30 51 ~ 60

3.（1）55 30 51 66

（2）小轿 货 36

（3）202

二、1.（1）3 4 9

（2）104 个 16 个 88 个

（3）9 人 3 人

2.（1）4 8 4 （2）12 人 3 人

3.（1）22 14 4

（2）99 ~ 100 96 ~ 98 90 ~ 95

期末复习冲刺卷

专项复习卷 1 两位数乘两位数的笔算和两步混合运算

一、1. 4000 1800 2. 4 2 3. 四 1500

4. 乘 加 5. 78 − 12 × 5 = 18

6. 3 7. 72 199

8. = > = = 9. 576

二、1. C 2. B 3. C 4. C 5. A

关注微信公众号“教辅资料站”获取更多学习资料

三、1. 680　1800　2700　36　640　260
14　160

2. $22\times24=528$　　$20\times36=720$

$$\begin{array}{r} 22 \\ \times\ 24 \\ \hline 88 \\ 44 \\ \hline 528 \end{array}\qquad \begin{array}{r} 36 \\ \times\ 20 \\ \hline 720 \end{array}$$

$78\times32=2496$　　$21\times14=294$

$$\begin{array}{r} 78 \\ \times\ 32 \\ \hline 156 \\ 234 \\ \hline 2496 \end{array}\qquad \begin{array}{r} 21 \\ \times\ 14 \\ \hline 84 \\ 21 \\ \hline 294 \end{array}$$

3. $420-21\times16$　　$27+16\times15$
$=420-336$　　$=27+240$
$=84$　　$=267$
$35\times(28+21)$　　$25\times(28\div4)$
$=35\times49$　　$=25\times7$
$=1715$　　$=175$

四、1. $720-(82+122)$
2. $225\div(5\times9)$
3. $(36+64)\times18$
4. $(100-4)\div4$

五、1. $4\times13\times25=1300$（千克）
答：一共摘了1300千克。
2. $3000-92\times20=1160$（千克）
答：卖了20天后还剩1160千克。
3. $18\times6-72=36$（元）
答：每盒便宜36元。
【点拨】用现价减去原价。
4. $15\times(58+32)=1350$（元）
答：买15套这样的衣服一共要1350元。
5. $35+35\times12=455$（枝）
答：月季花和郁金香一共有455枝。

期末复习冲刺卷

专项复习卷2　年、月、日和千米、吨

一、1. 千克　吨　千米　米　千米
2. 1200　7000　60　180　5　3　1　999
3. 早上7时　下午3时　晚上8时45分　凌晨0时
4. 50　5. 800　2
6. 2　20　15　45　7. 三　四
8. 8　9. 28　181
10. 186　【点拨】7、8两月是大月，每月有31天。

二、1. B
2. B　【点拨】闰年过生日，即1996、2000、2004、2008、2012、2016年过生日。
3. C　4. B　5. B

三、1. 568米　2800米　4千米300米　5千米
2. 3吨　2吨23千克　5千克　600克

四、1. $240\div2\times6=720$（千米）
答：A、B两城之间的铁路线全长720千米。
2. $750\times6=4500$（千克）　4500千克<5吨
答：这些机器的质量没有超过这辆卡车的载质量。
3. 7月份有31天　$25\times31=775$（千克）
答：7月份动物园一共需要为它准备775千克竹子。
4. 19：30=19时30分　8：30=8时30分
24时−19时30分=4小时30分
4小时30分+8小时30分=13小时
答：这列火车一共行驶了13小时。
5. $12-8+1=5$（小时）
$5\times80=400$（千米）
答：小雷家离泰山有400千米。

期末复习冲刺卷

专项复习卷3　分数、小数的初步认识

一、1. $\frac{6}{10}$　$\frac{6}{10}$　0.6　零点六　2. $\frac{1}{4}$　15
3. 8　5（或0.5）　4. 10　45
5. 0.7　1.6　2.8　3.2
6. <　=　=　=　<　=　7. 12　4
8. 8　1　3　6　【点拨】答案不唯一。

二、1. ×　2. √　3. ×　4. ×　5. √

三、1. C　2. B　3. B　4. B　5. B

四、1. $\frac{6}{7}$　$\frac{3}{5}$　$\frac{7}{9}$　$\frac{1}{8}$　1　0.8　0.9　0.7　3　0.6

关注微信公众号“教辅资料站”获取更多学习资料

2. 0.7+0.1=0.8　　4.8+1.4=6.2

$$\begin{array}{r} 0.7 \\ +\ 0.1 \\ \hline 0.8 \end{array} \qquad \begin{array}{r} 4.8 \\ +\ 1.4 \\ \hline 6.2 \end{array}$$

2.7+1.5=4.2　　4.7+2.5=7.2

$$\begin{array}{r} 2.7 \\ +\ 1.5 \\ \hline 4.2 \end{array} \qquad \begin{array}{r} 4.7 \\ +\ 2.5 \\ \hline 7.2 \end{array}$$

2.9−0.4=2.5　　8.6−0.8=7.8

$$\begin{array}{r} 2.9 \\ -\ 0.4 \\ \hline 2.5 \end{array} \qquad \begin{array}{r} 8.6 \\ -\ 0.8 \\ \hline 7.8 \end{array}$$

五、1. 5.2+2.4=7.6（元）

5.2−2.4=2.8（元）

答：这两种水果各买 1 千克共需 7.6 元，买 1 千克苹果比买 1 千克梨多付 2.8 元。

2. 30÷2=15（个）

30÷6=5（个）

30÷3=10（个）　15>10>5

答：小明吃得最多。

3.（1）2.1+2.7=4.8（吨）

答：两次一共运走 4.8 吨煤。

（2）5.8−4.8=1（吨）

答：还剩 1 吨煤没有运走。

4. 8×6=48（平方米）

48÷6×5=40（平方米）

答：已经铺了 40 平方米。

期末复习冲刺卷

专项复习卷 4　长方形和正方形的面积

一、1. 面积　周长

2. 800　23　200000　80

3. 平方分米　平方分米　分米　平方分米　平方米　平方厘米

4. 12　1200

5. 10 厘米　4 平方厘米

6. 3　24

7. 8　1　8　4　2　8

二、1. ×　2. ×　3. ×　4. √　5. √

三、1. C　2. C　3. C　4. B　5. B

四、84 米　432 平方米　62 分米　228 平方分米　140 厘米　1225 平方厘米

五、（1）

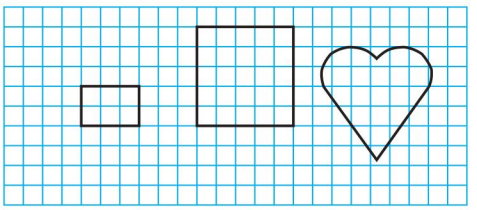

【点拨】长方形画法不唯一。

（2）18（答案不唯一，合理即可）

六、1. 2×(5+3)=16（厘米）

5×3=15（平方厘米）

答：图形的周长为 16 厘米，面积为 15 平方厘米。

2. 36×(36−12)=864（平方米）

答：这块菜地的面积是 864 平方米。

3. 20×20÷2=200（平方米）

答：西红柿占地 200 平方米。

4. 20×4=80（米）　20×20=400（平方米）

答：篱笆有 80 米长，这块菜地有 400 平方米。

期末复习冲刺卷

专项复习卷 5　解决实际问题的策略和统计

一、1. □　2. 30×8=240（条）

3. 481　4. 40　5. 132　6. 48

7. 面包车辆数　小轿车辆数　面包车辆数　小轿车辆数　28×3=84（辆）

84+28=112（辆）

二、1. A　2. C　3. A　4. C

三、（1）18　9　15　（2）苹果　梨

（3）9　（4）24

四、1. 20+20×3=80（人）

答：绘画组与羽毛球社团共有 80 人。

2.（72−27）÷5=9（盒）

答：可以装 9 盒。

3.（1）3×8+15=39（元）

答：应付 39 元。

（2）100−8×6=52（元）

答：应找回 52 元。

4.（1）18×3−18=36（人）

答：打篮球的比踢足球的多 36 人。

（2）18+(18+15)=51（人）

答：跳绳的和踢足球的一共有 51 人。

来德基好卷

关注微信公众号“教辅资料站”获取更多学习资料

期末复习冲刺卷

满分压轴卷 1　常考易错突破卷（一）

一、1. 6　252　20　840　26　1092

2. 1　4　【点拨】注意单位，两个来回是四趟。

3. 10　1　国庆

4. $36 \div (21 - 18) = 12$

5. 1　20　6. 300　1

7. 18　12　8 cm^2

8. 49×61　9. 3

10. 0.6　11. $\frac{1}{8}$（或$\frac{6}{48}$）

12. 31　4　3

13.（1）5 小时 30 分　（2）10 小时

二、1. ×　2. √　3. ×　4. ×　5. ×

6. √

三、$30 \times 67 = 2010$

$$\begin{array}{r} 67 \\ \times\ 30 \\ \hline 2010 \end{array}$$

$8.3 - 7.6 = 0.7$

$$\begin{array}{r} 8.3 \\ -\ 7.6 \\ \hline 0.7 \end{array}$$

$64 \times 46 = 2944$

$$\begin{array}{r} 64 \\ \times\ 46 \\ \hline 384 \\ 256 \\ \hline 2944 \end{array}$$

$2.4 + 1.5 = 3.9$

$$\begin{array}{r} 2.4 \\ +\ 1.5 \\ \hline 3.9 \end{array}$$

四、1. $4 \times 3 = 12$（平方米）

12 平方米 = 1200 平方分米

$2 \times 2 = 4$（平方分米）

$1200 \div 4 = 300$（块）

答：一共需要 300 块这样的地砖。

2. $48 \div 4 \times 3 = 36$（页）

$36 + 1 = 37$（页）

答：他第 4 天应从 37 页看起。

3. $9.5 - 3.8 + 9.5 = 15.2$（元）

答：妈妈买水果一共用去 15.2 元。

4. $32 \times 15 \div 8 = 60$（页）

答：剩下的平均每天看 60 页。

期末复习冲刺卷

满分压轴卷 2　常考易错突破卷（二）

一、1. 4　3　2. 2　3. 正方　25

4. 6000　3　500　70　4

5. $\frac{8}{10}$　0.8　$\frac{9}{10}$　9

6. $\frac{1}{10}$　$\frac{7}{10}$

7. 40　8. 18 时　晚上 10 时

9. 2400　10. 4　25

二、1. A　2. C　3. B　4. B

三、$274 - (76 + 38)$

$= 274 - 114$

$= 160$

$(847 - 280) \div 7$

$= 567 \div 7$

$= 81$

$480 - 12 \times 24$

$= 480 - 288$

$= 192$

$18 \times (210 - 187)$

$= 18 \times 23$

$= 414$

四、1.

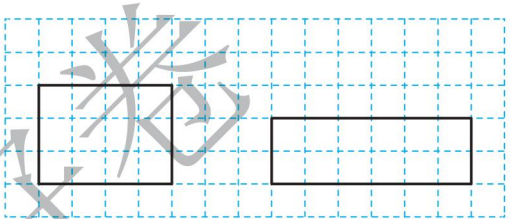

（答案不唯一）

2. 16　8　2

五、1. 当长靠墙时：$(16 - 6) \div 2 = 5$（米）

$5 \times 6 = 30$（平方米）

当宽靠墙时：$16 - 2 \times 6 = 4$（米）

$4 \times 6 = 24$（平方米）

答：菜园的面积是 30 平方米或 24 平方米。

【点拨】画图理解，分两种情况，先求出宽。

2. $(200 - 78) \div 2 = 61$（页）

答：小宁平均每天看 61 页。

【点拨】平均每天看的页数 = 已看的页数 ÷ 2。

3. 下午 2：20 是 14：20

$14 - 9 = 5$（小时）

$178 \times 5 = 890$（个）

答：这一天他共做了 890 个零件。

4. $120 \div (4 - 1) = 40$（个）

$40 \times 4 = 160$（个）

答：王师傅一天生产 160 个零件，徒弟一天生产 40 个零件。

荣德基试卷

关注微信公众号“教辅资料站”获取更多学习资料