好卷



同步 跟踪检测
周测 教材过关卷
单元 达标测试卷
期中 测试卷

期末 复习冲刺
专项 期末归类卷
期末 测试卷

数学 三年级 下 SJ版

教辅资料站

电子教辅　试卷练习
知识总结　备课资源

扫码关注获取更多学习资料

好题 ★ 好卷 ★ 好成绩

吉林教育出版社

好卷



主 编：荣德基　　本册主编：徐莹珠

3 数学 三年级 下 SJ版

吉林教育出版社

目录

同步跟踪检测卷

大卷

☆单元检测卷（8套）

第一单元跟踪检测卷 …… 1

第二、三单元跟踪检测卷 …… 3

第四单元跟踪检测卷 …… 5

第五单元跟踪检测卷 …… 7

期中检测卷 …… 9

第六单元跟踪检测卷 …… 11

第七单元跟踪检测卷 …… 13

第八、九单元跟踪检测卷 …… 15

小卷

☆周测培优卷（12套）

◆两位数乘两位数的口算、估算及笔算 …… 1

◆乘数末尾有0的乘法及用两步连乘解决实际问题 …… 3

◆千米和吨的认识 …… 5

◆从问题出发分析和解决实际问题 …… 7

◆两步计算的混合运算（含认识小括号）及应用 …… 9

◆年、月、日的认识及24时记时法 …… 11

求简单的经过时间 …… 13

◆面积含义和面积单位的认识 …… 15

长方形和正方形的面积计算和单位间的进率 …… 17

◆认识一个整体的几分之一及几分之几 …… 19

◆小数的初步认识、比较大小及简单的加减法 …… 21

◆简单数据的汇总、排序及分组 …… 23

期末复习冲刺卷

大卷

☆模块过关卷（2套）

数与代数　统计 …… 17

图形与几何 …… 19

☆仿真模拟卷（4套）

仿真模拟卷（一） …… 21

仿真模拟卷（二） …… 23

江苏省某名校期末测试卷 …… 25

山西省某名校期末测试卷 …… 27

参考答案及点拨 …… 29

小卷

☆专项复习卷（5套）

两位数乘两位数的笔算和两步混合运算 …… 25

年、月、日和千米、吨 …… 27

分数、小数的初步认识 …… 29

长方形和正方形的面积 …… 31

解决实际问题的策略和统计 …… 33

☆满分压轴卷（2套）

常考易错突破卷（一） …… 35

常考易错突破卷（二） …… 37

参考答案及点拨 …… 39

好卷　全面测评　环环相扣有抓手　专项突破　重难易错不失分

微信公众号 好卷 教辅资料站

关注微信公众号“教辅资料站”获取更多学习资料

如何选择一本好卷？

现在市场上试卷类教辅比比皆是，质量却参差不齐，加之各学科“核心素养”的提出，就更加突显出一本“好”卷的稀有和珍贵。如何慧眼识珠，客观并被选到一本“好”卷，令教师教学如鱼得水，使学生学习事半功倍，显得至关重要。欣德基老师将其与全国众多优秀教改专家的研究成果汇总成四点分享如下，希望对广大师生有所裨益。

1 形式上要“好用”

测试方便：活页试卷，收发自如。

时间灵活：课后自测、课堂小测、班级统测，一应俱全。

卷面规范：字迹清晰，题空合理，版面整齐。

2 读懂试卷优劣的“四个指标”

一份试卷质量的优劣可用四个指标来评价：信度、效度、难度和区分度。

信　度：真实地反映考生的实际水平，体现在试题的难度、题目的数量、题目用语的准确性方面。

效　度：评测目的明确、命题范围准确、题目考查形式合理。

难　度：每一道试题的难度合理，整套试卷的难度适中。

区分度：区分度高的试卷能将不同水平的学生区分开来，水平高的学生得高分，水平低的学生得低分。

3 抓住卷的核心：“好题”

卷的核心是“好题”，每套卷中的好题堪称灵魂，是广大师生十分期待的。

“好题”特征之一是：**引领命题方向**。如题型新颖、考法新奇、结合生活实际、情境化、应用性突出。

“好题”特征之二是：**体现学科素养**。如：语文倡导主题读写能力测评，数学注重实际问题的解决，英语倾向于听说读写综合能力提升。

4 解决老师和学生痛点：“实用”

市场上现有试卷多数为“大卷”，即标准统考卷，在评测时间及针对性上老师会觉得用着不顺手，不能真正做到与教学同步及针对性测评。老师们都急需短时高效、针对性强的“小卷”，如针对每单元基础知识梳理的评测、专项应用能力的评测及主题阅读素养的评测等。

抓住以上四点，即可帮你锁定一本好的试卷，让你收获满满！



《好卷》正是一本这样的书！用好卷 做好题 定能取得好成绩！



拍手歌

DAI SHOU GE

你拍一，　我拍一，　高效学习做“好题”；
你拍二，　我拍二，　我有《好卷》藏宝袋；
你拍三，　我拍三，　常做习题不怕难；
你拍四，　我拍四，　我是勤学好孩子；
你拍五，　我拍五，　天天向上不马虎；
你拍六，　我拍六，　快乐成长争优秀；
你拍七，　我拍七，　循序渐进好阶梯；
你拍八，　我拍八，　成绩优秀顶呱呱；
你拍九，　我拍九，　学习习惯要持久；
你拍十，　我拍十，　永远认真学知识。



关注微信公众号“教辅资料站”获取更多学习资料

荣德基 好卷 三年级 数学 下 SJ版

第一单元 跟踪检测卷

两位数乘两位数

时间：90分钟　满分：100分+10分

题号	一	二	三	四	五	六	附加题	总分
得分								

一、填空。（每空1分，共27分）

1. 口算24×20时，可以先算（　　），再在得数的末尾添上（　　）个0，结果是（　　）。
2. 82×59的积大约是（　　），最高位是（　　）位。
3. 44×50的积的末尾有（　　）个0。50个20相加得（　　）。
4. 学校展出元宵节花灯，每个班送出12盏参加展览，31个班一共有多少盏花灯参加展览？根据数量关系完成填空。

```
   1 2
 × 3 1
-------
   1 2   ……（　　）个班送出（　　）盏花灯参加展览
 3 6     ……（　　）个班送出（　　）盏花灯参加展览
-------
 3 7 2   ……（　　）个班有（　　）盏花灯参加展览
```

5. 在○里填上“>”“<”或“=”。

50×30 ○ 49×28　　16×32 ○ 35×16

42×85 ○ 35×79　　28×10 ○ 7×40

6. 42×□1，要使积是四位数，□里最小填（　　）。要使积是三位数，□里最大填（　　）。
7. 38×19+38=38×（　　）　　25×16=25×4×（　　）

26×29=26×（　　）−26　　32×6×7=32×（　　）

8. 弟弟有16张邮票，哥哥的邮票是弟弟的12倍，哥哥有（　　）张邮票，两人一共有（　　）张邮票。
9. 江苏滨海盛产何首乌，一个普通家庭一季生产了50袋（袋子同样大）。该家庭称了其中的4袋，结果分别是28千克、31千克、29千克、32千克。他大约一共收获何首乌（　　）千克。
10. 一个工人一天可以加工24个零件，照这样计算，4个工人一个星期（7天）能加工（　　）个零件。

二、判断。（对的在括号里打“√”，错的打“×”。每题1分，共5分）

1. 两个两位数的积一定大于这两个两位数的和。（　　）
2. 两个两位数相乘，积可能是三位数，也可能是四位数。（　　）
3. 65×60的积的末尾只有一个0。（　　）
4. 24×50的积和25×40的积相等。（　　）
5. 38×49的积大于1200小于2000。（　　）

三、选择。（将正确答案的字母填在括号里。每题1分，共5分）

1. 45×20的积末尾有（　　）个0。

A. 1　　B. 2　　C. 3

2. 学校图书馆的书架上，每一格可放32～38本书，如果书架共有21格，一共可以放书约（　　）本。

A. 200～600　　B. 900～1200　　C. 600～800

3. 一个两位数乘13，积不可能是（　　）位数。

A. 两　　B. 三　　C. 四

4. 10名同学1分钟折了11只千纸鹤，他们1个小时折（　　）只千纸鹤。

A. 600　　B. 110　　C. 660

5. 与28×49的积不相等的算式是（　　）。

A. 28×7×7　　B. 28×50−28　　C. 28×40+9

四、计算。（共23分）

1. 直接写得数。（每题1分，共12分）

50×15=	60×80=	10×90=	3×320=
32×30=	51×70=	480×0=	25×3=
25×40=	20×50=	90×90=	99×8×0=

2. 用竖式计算。（每题2分，共8分）

79×68=　　80×35=　　45×75=　　12×44=

3. 估一估，把得数比3000小的算式圈起来。（3分）

46×59　　39×62　　69×58

82×68　　78×29　　78×53

关注微信公众号“教辅资料站”获取更多学习资料

姓名 学号 班级 学校
重点提示：请不要在密封线内答题哦！

五、探究规律。(6 分)

乘数	40	40	40	40
乘数	5	10	15	20
积				

我的发现（　　）。

六、解决问题。(共 34 分)

1. 学校食堂购进大米 38 袋，每袋 15 千克。学校一共购进大米多少千克？(5 分)

2. 盐城新四军纪念馆某天上午有 85 人参观，下午参观的人数是上午的 12 倍，一天一共有多少人参观？(5 分)

3. 花园小学要购进 50 套如图所示的课桌椅，一共需要多少元？(5 分)



每张课桌 52 元
每把椅子 18 元

4. 一只母鸡平均一个月生产 28 个鸡蛋，照这样计算，5 只母鸡 4 个月可以生产多少个鸡蛋？(5 分)

5. 新洋实验学校给鼓号队队员买 40 件短袖衫，付出 2000 元，找回一些。



① 69 元



② 49 元



③ 57 元

（1）估计一下：买的是哪种短袖衫？(3 分)

（2）实际用了多少元？找回多少元？(3 分)

（3）你还能提出什么问题？提出并解答。(3 分)

6. 某公司食堂运来 24 袋大米，每袋重 25 千克。如果平均每天吃 48 千克，这些大米够吃 12 天吗？(5 分)

附加题：(10 分)

用 6、7 、8、9 组成两位数，使它们的乘积最大，它们的积最大应是多少？

关注微信公众号“教辅资料站”获取更多学习资料

第二、三单元 跟踪检测卷

千米和吨　解决问题的策略

时间：90分钟　满分：100分+10分

题号	一	二	三	四	五	附加题	总分
得分							

一、填空。（每空1分，共25分）

1. 计量路程或测量铁路、公路、河流的长度，通常用（　　）作单位，可以用字母（　　）表示，又叫作（　　）。
2. 称比较重的或大宗的物品，通常用（　　）作单位，可以用字母（　　）表示。
3. 一把椅子45元，一张桌子的价格是一把椅子的5倍，买一张桌子和一把椅子共要（　　）元。
4. 跑道每圈200米，2圈半是（　　）米。小军跑了10圈就是跑了（　　）千米。
5. 有一盒糖，平均分给15人，每人分8颗，还剩34颗。这盒糖共有（　　）颗。
6. 2块砖重5千克，200块砖重（　　）千克，（　　）块这样的砖重1吨。
7. 在括号里填上合适的单位名称。
   小红的身高是142（　　），体重是27（　　），每分钟能步行70（　　）。
   一架飞机每小时飞行720（　　）。
   世界上最大的动物是蓝鲸，一只蓝鲸的体重约为162（　　）。
   世界上最高的山峰——珠穆朗玛峰高8844（　　）。
8. 2000米＝（　　）千米　　7吨＝（　　）千克
   12分米＝（　　）厘米　　9千克＝（　　）克
   5000千克＝（　　）吨　　7000米＝（　　）千米
9. 工厂进行节能减排改造后，一个月节约用水大约300千克，照这样计算，十个月可节约用水（　　）吨。
10. 图书室各种图书统计如下，你能把表格填写完整吗？

童话书	科技书	故事书	一共
102本	（　　）本	864本	1445本

二、判断。（对的在括号里打“√”，错的打“×”。每题2分，共12分）

1. 张叔叔的体重约有180吨。（　　）
2. 世界第一长河——尼罗河全长约6670米。（　　）
3. 300克＋200克＝1千克（　　）
4. 小军家一个月可节约用水500千克，一年正好节约用水5吨。（　　）
5. 一辆大卡车的载质量为10千克。（　　）
6. 小美有邮票36枚，比小勇多12枚，两人一共有84枚邮票。（　　）

三、选择。（将正确答案的字母填在括号里。每题2分，共10分）

1. 商店给亚运会篮球比赛场馆送去5箱饮料，每箱12瓶，每瓶3元，一共用了（　　）。
   A. 60元　　B. 36元　　C. 180元
2. 小明家到学校有500米，妈妈每天接送小明要走两个来回，妈妈一天共走（　　）千米。
   A. 1　　B. 2　　C. 2000
3. 一堆黄沙重1吨，用2辆大车4次运完，平均每辆大车每次运（　　）千克。
   A. 1250　　B. 125　　C. 100
4. 小亮的体重是35千克，_____，小勇比小红重12千克，小勇重多少千克？横线上补充的条件可以是（　　）。
   A. 小阳比小亮重6千克　　B. 小红比小亮重9千克　　C. 小红比小勇轻12千克
5. 兵兵读一本156页的故事书，他每天读12页，第6天应从第（　　）页开始读。
   A. 96　　B. 61　　C. 60

四、操作题。（共18分）

1. 把下面的数量从大到小排列。（每题4分，共8分）
   （1）3800千克　　4吨　　40千克　　3800克
   （　　）
   （2）54千米　　5400米　　4500米　　6千米
   （　　）
2. 连一连。（4分）






3吨　　8300克　　300千克　　1000克

关注微信公众号“教辅资料站”获取更多学习资料

3. 看图列式计算。(每题 3 分，共 6 分)

(1)



(2)



五、解决问题。(共 35 分)

1. 工地上运来 1 吨水泥，第一次用去 350 千克，第二次用去 400 千克，还剩多少千克？(5 分)

2. 学校跑道每圈长 400 米，照这样计算，王强一周（7 天）跑多少米？合多少千米？(5 分)



3. 妈妈带了 1000 元，在下列商品中，任选三种，妈妈最少剩下多少元？(5 分)



4. 动物园有 18 只梅花鹿，羚羊的只数是梅花鹿只数的 4 倍。梅花鹿和羚羊一共有多少只？(5 分)

5. 新洋水果店买来一批水果，其中香蕉 65 千克，苹果比香蕉多 15 千克，西瓜的千克数是香蕉的 3 倍。

(1) 苹果和香蕉一共有多少千克？(4 分)

(2) 西瓜比香蕉多多少千克？(4 分)

6. 从南京到上海，李叔叔行驶了 168 千米，张叔叔行驶了 2 小时，_____，张叔叔比李叔叔多行驶了多少千米？(先补充缺少的条件，再解答)(7 分)

附加题：(10 分)

成成有 48 张邮票，给小凡 3 张后，现在的邮票张数是小凡的 5 倍。小凡原有邮票多少张？

自己说说
老师点评
家长点评
荣德基 好卷
微信公众号
教辅资料站

关注微信公众号“教辅资料站”获取更多学习资料

荣德基 好卷

三年级 数学 下 SJ版

第四单元 跟踪检测卷

混合运算

时间：90分钟　满分：100分+10分

题号	一	二	三	四	五	附加题	总分
得分							

一、填空。（每空1分，共17分）

1. 计算 375 − 24 × 5 时，先算（　　）法，再算（　　）法，最后的结果是（　　）。计算 34 ×（37 + 63）时，应先算（　　）法，再算（　　）法，最后的结果是（　　）。

2. 把 83 × 2 = 166，200 − 166 = 34 合并成综合算式是（　　），把 5 × 4 = 20，20 + 30 = 50 合并成综合算式是（　　）。

3. 在○里填上“＞”“＜”或“＝”。

   95 ×（8 + 12）○ 95 × 8 + 12　　86 − 25 − 35 ○ 86 −（25 + 35）

   220 ÷ 4 ÷ 2 ○ 320 ÷（4 × 2）　　240 − 40 ÷ 2 ○（240 − 40）÷ 2

   60 + 70 × 7 ○（60 + 70）× 7　　48 × 5 + 15 ○ 48 ×（5 + 15）

4. 滨海港口是江苏较大的港口，港口有一堆黄沙有 150 吨，用载重 8 吨的卡车运了 13 次，还剩（　　）吨。

5. 一本画册有 56 页，小诺已经看了 16 页，剩下的 8 天看完，剩下的平均每天要看（　　）页。

6. 一个水果店上午售出 13 千克草莓，下午售出 10 千克草莓，每千克草莓售价 15 元，这些草莓一共卖了（　　）元。

二、判断。（对的在括号里打“√”，错的打“×”。每题1分，共5分）

1. 60 ÷ 3 + 2 = 60 ÷ 5 = 12　　（　　）
2. 在一道算式中添上或者去掉括号，可以改变算式的运算顺序。　　（　　）
3. 20 + 80 = 100，100 ÷ 4 = 25 合并成综合算式是 20 + 80 ÷ 4 = 25。　　（　　）
4. 165 与 8 的积比 786 多 534。　　（　　）
5. 根据 60 比一个数的一半多 16，求这个数，可列式为（60 − 16）× 2。　　（　　）

三、选择。（将正确答案的字母填在括号里。每题2分，共10分）

1. 750 减 25 的差乘 5，积是多少？正确列式是（　　）。

   A.（750 − 25）× 5　　B. 750 − 25 × 5　　C. 5 × 750 − 25

2. 下列说法正确的是（　　）。

   A. 混合运算中，必须先算乘除，后算加减

   B. 有括号的算式，应先算括号里的，再算括号外的

   C. 如果算式中只有加减，应该先算加，后算减

3. 下列与 315 − 86 − 14 计算结果相等的算式是（　　）。

   A. 315 −（86 + 14）　　B. 315 + 86 − 14　　C. 315 −（86 − 14）

4. 同学们修补图书。五年级分 4 个组，一共修补 28 本，四年级分 6 个组，每组修补 8 本，两个年级一共修补了（　　）本。

   A. 10　　B. 36　　C. 76

5. 小敏原来有一些邮票，今年又收集了 28 枚，送给小玲 35 枚后，还剩 42 枚，小敏原来有（　　）枚邮票。

   A. 49　　B. 77　　C. 105

四、计算。（共38分）

1. 直接写得数。（每题1分，共8分）

   20 − 20 ÷ 2 =　　30 × 14 − 4 =　　7 + 18 − 8 =

   560 ÷ 7 ÷ 2 =　　50 + 50 × 3 =　　100 ÷ 2 + 5 =

   61 − 45 + 5 =　　90 − 47 − 13 =

2. 脱式计算。（每题3分，共18分）

   14 × 18 + 520　　780 ÷ 3 + 77　　67 + 34 ÷ 2

   546 − 9 × 34　　（28 + 62）× 23　　36 ÷ 4 × 24

3. 下面计算对吗？先在□里打“√”或“×”，再把不对的改正过来。（每题3分，共6分）

   342 − 42 ÷ 6 □　　50 − 16 + 20 □

   ＝300 ÷ 6　　＝50 − 36

   ＝50　　＝14

温馨提示：请不要在密封线内答题哦！

微信公众号 教辅资料站

关注微信公众号“教辅资料站”获取更多学习资料

4. 算“24 点”。（每题 2 分，共 6 分）

（1）1　5　8　9

（2）2　3　6　8

（3）8　3　6　5

五、解决问题。（共 30 分）

1. 第一车间要加工 800 个零件，剩下的平均每天加工多少个零件？（6 分）



2. 同学们参加植树活动，平均每人植树 5 棵，两个班一共植树多少棵？（6 分）



3. 养殖场有奶牛 66 只，绵羊的只数是奶牛的 3 倍。

（1）养殖场一共有奶牛和绵羊多少只？（3 分）

（2）养殖场的绵羊比奶牛多多少只？（3 分）

4. 王老师买 5 本价钱相同的故事书，用去 80 元。全班有 52 名学生，每人都买一本这样的故事书，一共要多少元？（6 分）

5. 李叔叔家到公司的路程全长 900 米，他计划 9 分钟骑车从家到公司，实际比计划少用 3 分钟，实际平均每分钟骑多少米？（6 分）

附加题：（10 分）

小马虎在计算 80 + □ ×5 时，先算加法，再算乘法，得到的结果是 460，你能帮助小马虎算出正确的结果吗？

关注微信公众号“教辅资料站”获取更多学习资料

荣德基 好卷 三年级 数学 下 SJ版

第五单元 跟踪检测卷

年、月、日

时间：90分钟　满分：100分+10分

题号	一	二	三	四	五	附加题	总分
得分							

一、填空。（每空1分，共33分）

1. 一年有（　　）个月，（　　）月是大月，每月有（　　）天，（　　）月是小月，每月有（　　）天，（　　）月既不是大月也不是小月。
2. 北京冬奥会在（　　）年举办，这一年的第一季度有（　　）天。
3. 成成是2012年2月15日出生的，这一年是（　　）年，这个月有（　　）天，这一年有（　　）天。
4. 小凡早上7：30到校，中午11：50离校，他上午在校（　　）小时（　　）分钟。
5. 平年一年有（　　）天，合（　　）个星期零（　　）天。
6. 右表中公共汽车最早是（　　）时（　　）分开出，最晚是（　　）时（　　）分开出，最早发车时间与最晚发车时间相隔（　　）小时（　　）分钟。

下一站：文昌广场
始发站：××东站
终点站：××西站
服务时间：5:40~23:30

7. 海底世界上午9时开馆，下午4时闭馆，每天开放（　　）小时。
8. 一次数学考试从14：30开始，到15：10结束，这次数学考试持续了（　　）分钟。
9. 他们的生日分别是几月几日？填在括号里。
   小红说：“我的生日是8月的最后一天。”（　　）月（　　）日
   小刚说：“我的生日是第三季度的倒数第三天。”（　　）月（　　）日
   小军说：“我的生日在劳动节前五天。”（　　）月（　　）日
   小林说：“我每过四年才有这一个生日。”（　　）月（　　）日
10. 妈妈晚上8时上班，工作8小时，妈妈第二天（　　）时下班。

二、判断。（对的在括号里打“√”，错的打“×”。每题1分，共5分）

1. 9月31日我参加了数学竞赛。（　　）
2. 一年里，除二月外，有7个大月，4个小月。（　　）
3. 小新是2月29日出生，出生那年是闰年。（　　）
4. 晚上8时用24时记时法是20时。（　　）
5. 21时用普通记时法表示是9时。（　　）

三、选择。（将正确答案的字母填在括号里。每题2分，共8分）

1. 7、8、9三个月共有（　　）天。
   A. 90　　B. 91　　C. 92
2. 下面的年份是闰年的是（　　）。
   A. 2019　　B. 2018　　C. 2020
3. 0时是（　　）。
   A. 23时　　B. 中午12时　　C. 午夜12时
4. 2019年的2月22日是星期五，接下来的一个星期五是（　　）。
   A. 2月28日　　B. 3月1日　　C. 3月2日

四、按要求完成下面各题。（共20分）

1. 用24时记时法表示下面时刻。（每空1分，共4分）
   早上6时30分　　中午12时　　下午3时45分　　深夜11时
   （　　）　　（　　）　　（　　）　　（　　）
2. 用普通记时法表示下面时刻。（每空1分，共4分）
   17：50　　10：00　　16：25　　24：00
   （　　）　　（　　）　　（　　）　　（　　）
3. 给下面的钟面画上时针。（每题1分，共4分）


14：00


凌晨2：00


9：00


21：00

4. 下面是某一年连续两个月的月历表，请根据月历表回答问题。（8分）

日	一	二	三	四	五	六
				1	2	3
4	5	6	7	8	9	10
11	12	13	14	15	16	17
18	29	20	21	22	23	24
25	26	27	28	29	30	31

日	一	二	三	四	五	六
			1	2	3	4
5	6	7	8	9	10	11
12	13	14	15	16	17	18
19	20	21	22	23	24	25
26	27	28	29			

（1）这是（　　）月、（　　）月的月历表。
（2）这一年是（　　）年。
（3）小红4年只过一个生日，在月历表中圈出小红过生日的那天。



关注微信公众号“教辅资料站”获取更多学习资料

五、解决问题。（共 34 分）

1. 丽丽一家从盐城乘火车到南京游玩，火车从 15：00 开出，经历 2 小时 30 分到达南京，火车几时几分到达南京？（6 分）

2. 盐城新四军纪念馆每天上午 8 时 30 分开馆，下午 5 时闭馆，这个纪念馆每天开放多久？（6 分）

3. 某商场在 2019 年的第三季度中，平均每天节约用电 9 千瓦时，这个季度共节约用电多少千瓦时？（6 分）

4. 小丽上学每分钟走 37 米，她家离学校有多远？（7 分）



5. 下面是某电视台某一天的部分栏目播出时间。

7：00 早间新闻	7：25 文化星空	8：00 车行天下
8：35 动画剧场	12：30 国际时尚	18：00 七彩阳光

（1）《早间新闻》7：20 结束，这个栏目播出多长时间？（3 分）

（2）《七彩阳光》播出时间是下午几时？（3 分）

（3）《文化星空》开始播出到《动画剧场》开始播出相隔多少时间？（3 分）

附加题：（10 分）

某地 2 路公交车每 8 分钟发出一班车，7：30 开出第一班车，那么第 5 班车应该在几时几分发出？

自己说说

老师点评

家长点评

荣advantage 好卷
荣advantage 好卷
微信公众号
教辅资料站

关注微信公众号“教辅资料站”获取更多学习资料

荣德基 好卷

三年级 数学 下 SJ版

期中 检测卷

时间：90分钟　满分：100分+10分

题号	一	二	三	四	五	六	附加题	总分
得分								

姓名　学号　班级　学校

一、填空。（每空1分，共25分）

1. 在括号里填上合适的单位。
连接苏州和南通两市的苏通大桥大约长8（　　）。
一头鲨鱼重约20（　　）。　　一张光碟约重10（　　）。
小明身高153（　　），体重27（　　）。
2. 61×27的积是（　　）位数，积的最高位在（　　）位上。
3. 根据186－72＝114，114÷6＝19，写成综合算式是（　　）。
根据18×15＝270，45＋270＝315，写成综合算式是（　　）。
4. 要使7□×20的积的末尾有两个0，□里可以填（　　）。
5. 一年有（　　）个季度，2019年第一季度有（　　）天，2019年上半年比下半年少（　　）天。
6. 在○里填上“＞”“＜”或“＝”。

32×20 ○ 23×30　　2吨 ○ 1500千克　　990克 ○ 1千克

10×90 ○ 90＋10　　4000千克 ○ 4吨　　1千米 ○ 120米

7. 荷兰花海每天开放时间是8时30分到17时30分，开放时间从上午（　　）到下午（　　），这一天共开放了（　　）小时。
8. 三（2）班的图书角第一天借出了存书的一半，第二天又借出了26本，这时还剩28本。图书角原来有（　　）本图书。
9. 用5、7、1、6算24点，列式是（　　）。
10. 一头牛每天需要饲料12千克，这头牛5月份共需要饲料（　　）千克。

二、判断。（对的在括号里打“√”，错的打“×”。每题1分，共5分）

1. （36－20）÷2去掉括号后并没有改变计算结果。（　　）
2. 小明的生日是2009年2月29日。（　　）
3. 两个乘数的末尾共有几个0，乘得的积的末尾就只有几个0。（　　）
4. 2000千克水泥比2吨棉花重。（　　）
5. 每年第三季度与第四季度的天数相同。（　　）

三、选择。（将正确答案的字母填在括号里。每题1分，共5分）

1. 下面各题中，乘积一定大于4200的是（　　）。
A. 59×69　　B. 62×72　　C. 58×71
2. 用24时记时法，正确描述下面三幅图片时间的是（　　）。



A. 10：00、4：00、20：00　　B. 10：00、16：00、20：00
C. 10：00、16：00、8：00
3. （　　）的1、2、3月共有91天。
A. 平年　　B. 闰年　　C. 每一年
4. 某童装厂第一车间有12人，平均每人每天生产童装4套，五月份一共生产多少套？正确的列式是（　　）。
A. 4×12　　B. 4×12×30　　C. 4×12×31
5. 沿着400米的跑道跑了20圈是（　　）千米。
A. 8000　　B. 80　　C. 8

四、计算。（共30分）

1. 直接写得数。（每题0.5分，共8分）

14×5＝	60÷5＝	90＋50＝	8×7＋2＝
26×3＝	180－90＝	300×7＝	50－16÷2＝
80×7＝	50×60＝	25×10＝	40＋10×2＝
4×50＝	42÷3＝	900÷3＝	9×（4＋3）＝

2. 用竖式计算，带※的要验算。（要验算的每题3分，其余每题2分，共10分）

※56×34＝　　40×38＝　　※85×79＝　　68×70＝

3. 脱式计算。（每题3分，共12分）

48×12－220　　25＋45×50

温馨提示：请不要在密封线内答题哦！

微信公众号 教辅资料站 好卷

关注微信公众号“教辅资料站”获取更多学习资料

786 – (253 + 147)　　(428 + 72) ÷ 5

五、看图列式计算。（每题 3 分，共 6 分）

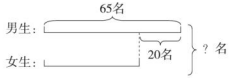

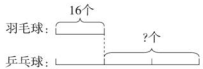

六、解决问题。（共 29 分）

1. 食堂运来 40 袋大米，每袋重 50 千克，共重多少千克？合多少吨？（4 分）

2. 王老师想买 19 本《科技天地》，带 600 元够吗？（4 分）



每本 29 元

3. 李叔叔从上午 10 时到下午 2 时一共给 320 棵果树喷洒农药，他平均每小时喷洒多少棵？（4 分）

4. 一本书有 150 页，小华已经看了 3 天，每天看 32 页，还剩多少页没有看？（用综合算式解答）（4 分）

5. 张老师购买 8 盒乒乓球，每盒 12 个，每个乒乓球 3 元，一共需要多少元？（5 分）

6. 订阅一份《电视节目报》每个季度 36 元，有线电视收视维护费每月 21 元。

（1）订阅一份《电视节目报》全年要多少钱？（4 分）

（2）有线电视收视维护费全年要多少钱？（4 分）

附加题：（10 分）

王老师需要一根长 32 厘米的铁丝做实验，他将一根铁丝剪去一半，然后再剪去 4 厘米，正好符合实验要求，原来这根铁丝有多长？

自己说说　老师点评　家长点评

关注微信公众号“教辅资料站”获取更多学习资料

荣德基 好卷 三年级 数学 下 SJ版

第六单元 跟踪检测卷

长方形和正方形的面积

时间：90分钟　满分：100分+10分

题号	一	二	三	四	五	六	附加题	总分
得分								

一、填空。（每空1分，共30分）

1. 常用的面积单位有（　　）、（　　）、（　　）。
2. 9平方米＝（　　）平方分米　10平方分米＝（　　）平方厘米
   7000平方分米＝（　　）平方米　600平方厘米＝（　　）平方分米
3. 在括号里填上合适的单位名称。
   一张电话卡的面积大约是46（　　）。　一个指甲盖的面积约是1（　　）。
   手掌的面积大约是1（　　）。　一张报纸的面积大约是44（　　）。
   一个游泳池的面积大约是1250（　　）。电脑屏幕的面积约是30（　　）。
4. 一张边长80厘米的方桌，面积是（　　）平方厘米，合（　　）平方分米。
5. 一块长方形菜地长是8米，宽是5米，面积是（　　）平方米，合(　　)平方分米。
6. 在○里填上“＞”“＜”或“＝”。
   100平方厘米○10平方分米　　1平方米○90平方分米
   200平方厘米○2平方分米　　90平方分米○9平方米
7. 一块长方形地的面积是600平方米，长是30米，它的宽是（　　）米。
8. 一块正方形木板周长是480厘米，这块正方形木板的边长是（　　）厘米，面积是（　　）平方分米。
9. 把三个边长为5分米的正方形拼成一个长方形，长方形的面积是（　　）平方分米。
10. 一个长5厘米、宽3厘米的长方形，如果长增加2厘米，面积增加（　　）平方厘米。
11. 在长8分米，宽4分米的长方形中，一共可以摆（　　）个边长为1分米的小正方形。
12. 一块长方形窗帘布长5米，宽3米。这块窗帘布的面积是（　　）平方米，如果把这块窗帘布照如图所示剪去2米，剩下的部分是（　　）形，它的面积是（　　）平方米。

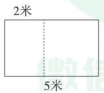

二、判断。（对的在括号里打“√”，错的打“×”。每题2分，共10分）

1. 一个长方形的周长是24平方厘米。（　　）
2. 两个面积相等的正方形，周长一定相等。（　　）
3. 6平方分米等于60平方厘米。（　　）
4. 边长为4厘米的正方形，它的周长和面积相等。（　　）
5. 把一个正方形纸片剪成两个大小相同的长方形，每个长方形的面积是原正方形面积的一半。（　　）

三、选择。（将正确答案的字母填在括号里。每题2分，共10分）

1. 1米与1平方米相比，（　　）。
   A. 一样大　　B. 1平方米大　　C. 不能比较
2. 图中，长方形被分成甲、乙两部分，这两部分（　　）。



   A. 周长和面积都相等　B. 周长和面积都不等
   C. 周长相等，面积不等
3. 用1平方厘米的小正方形，拼成如下的图形，周长最长的是（　　），面积最大的是（　　）。

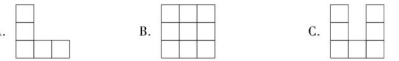

4. 下面说法正确的是（　　）。
   A. 作业本的封面面积比周长大
   B. 用同一根铁丝，分别围成一个长方形和一个正方形（铁丝无剩余），它们的周长相等
   C. 两个图形的周长相等，它们的面积也一定相等
5. 一张长9分米、宽4分米的长方形纸，可以剪成（　　）个边长为2分米的小正方形。
   A. 8　　B. 9　　C. 6

四、作图题。（共6分）

下面方格每个小方格表示1平方厘米。

（1）请你在这张方格纸上画出一个面积是28平方厘米的长方形，再画一个面积为36平方厘米的正方形。（4分）

（2）估计图①的面积大约是（　　）平方厘米。（2分）



重点提示：请不要在密封线内答题哦！

关注微信公众号“教辅资料站”获取更多学习资料

五、填表。（每空 1 分，共 10 分）

图形	长	宽	面积	周长
长方形	15 cm	4 cm		
		4 dm	36 dm^2	
		10 m		60 m
正方形				16 m
	边长 8 cm			

六、解决问题。（共 34 分）

1. 一张餐桌长是 11 分米，宽是 5 分米，它的面积是多少平方分米？合多少平方厘米？（5 分）

2. 有一个正方形鱼池，小红沿边走了一圈一共是 240 米，鱼池的面积是多少平方米？（5 分）

3. 一辆洒水车，每分钟行驶 60 米，洒水的宽度是 8 米。洒水车行驶 5 分钟，能给多少平方米的地面洒上水？（6 分）

4. 学校花坛的面积是 42 平方米，宽是 6 米，长是多少米？小青绕花坛走了一圈走了多少米？（6 分）

5. 在一个长 8 厘米、宽 6 厘米的长方形里剪去一个最大的正方形，剩下图形的面积是多少平方厘米？（6 分）

6. 一块长方形韭菜地，长 6 米，宽 3 米。如果每平方米收韭菜 5 千克，这块菜地一共可以收韭菜多少千克？（6 分）

附加题：（10 分）

把右图分成四块形状相同、大小相等的图形，并涂上不同的颜色。

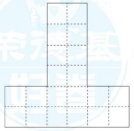

自己说说

老师点评

家长点评

关注微信公众号“教辅资料站”获取更多学习资料

第七单元 跟踪检测卷

分数的初步认识（二）

时间：90分钟　满分：100分+10分

题号	一	二	三	四	五	附加题	总分
得分							

姓名　学号　班级　学校

重点提示：请不要在密封线内答题哦！

一、填空。（每空1分，共25分）

1. 24个苹果，若平均分给4个小朋友，每个小朋友分得这些苹果的$\frac{(\quad)}{(\quad)}$，若平均分给8个小朋友，3个小朋友分得这些苹果的$\frac{(\quad)}{(\quad)}$。

2. 3个$\frac{2}{7}$的和是$\frac{(\quad)}{(\quad)}$，$\frac{5}{8}$是由5个$\frac{(\quad)}{(\quad)}$组成的。

3. 妈妈买了9支铅笔，给了小冬5支，给了小丽4支，小冬拿了这些铅笔的$\frac{(\quad)}{(\quad)}$，小丽拿了这些铅笔的$\frac{(\quad)}{(\quad)}$。

4. 求12个苹果的$\frac{2}{3}$是多少个，就是要把12个苹果平均分成（　　）份，求出这样的（　　）份。

5. 在○里填上“＞”“＜”或“＝”。

$\frac{2}{5}$○$\frac{3}{5}$　　$\frac{1}{4}$○$\frac{1}{5}$　　$\frac{2}{7}$○$\frac{5}{7}$　　$\frac{1}{8}$○$\frac{1}{3}$

6. 把1千米平均分成15份，每份是1千米的$\frac{(\quad)}{(\quad)}$，也就是$\frac{(\quad)}{(\quad)}$千米，7份就是$\frac{(\quad)}{(\quad)}$千米。

7. 一段路长6千米，王叔叔已经走了它的$\frac{2}{3}$，是（　　）千米，没走的是这段路的$\frac{(\quad)}{(\quad)}$，是（　　）千米。

8. 6分米＝$\frac{(\quad)}{(\quad)}$米　　$\frac{8}{10}$元＝（　　）角　　7角＝$\frac{(\quad)}{(\quad)}$元

$\frac{5}{6}$小时＝（　　）分钟　　$\frac{7}{10}$分米＝（　　）厘米　　7千克＝$\frac{(\quad)}{(\quad)}$吨

9. 一根6米长的绳子，对折3次，从折痕处剪开，平均分成若干小段，每一小段占全长的$\frac{(\quad)}{(\quad)}$。

二、选择。（将正确答案的字母填在括号里。每题2分，共10分）

1. 将1吨货物平均分成8份，其中3份重（　　）。

A. $\frac{3}{8}$　　B. $\frac{3}{8}$吨　　C. $\frac{1}{8}$吨

2. 妈妈买了10根香蕉，吃掉4根，吃掉了这些香蕉的（　　）。

A. $\frac{1}{4}$　　B. $\frac{4}{10}$　　C. $\frac{1}{10}$

3. 小红和小明一起玩猜拳游戏，小明胜6次，负5次，平2次。那么小红胜的次数占总次数的（　　）。

A. $\frac{6}{13}$　　B. $\frac{5}{11}$　　C. $\frac{5}{13}$

4. 小林吃了一盒巧克力的$\frac{1}{3}$，正好是2块，这盒巧克力有（　　）块。

A. 8　　B. 6　　C. 4

5. 一堆煤有20吨，运走了$\frac{4}{5}$，还剩（　　）。

A. 4吨　　B. 5吨　　C. 12吨

三、直接写得数。（每题1分，共6分）

$\frac{5}{9}-\frac{2}{9}=$　　$\frac{2}{4}+\frac{1}{4}=$　　$\frac{3}{5}-\frac{1}{5}=$

$\frac{5}{8}+\frac{2}{8}=$　　$\frac{6}{8}-\frac{3}{8}=$　　$\frac{3}{5}-\frac{3}{5}=$

四、操作题。（共24分）

1. 用分数表示每个图里的涂色部分。（每题3分，共6分）


$\frac{(\quad)}{(\quad)}$


$\frac{(\quad)}{(\quad)}$

2. 涂色表示每组图形下面的分数。（每题3分，共6分）


$\frac{1}{4}$


$\frac{5}{6}$

关注微信公众号“教辅资料站”获取更多学习资料

3. 分一分，算一算。(4 分)

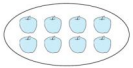

这些苹果的 $\frac{3}{8}$ 是（　　）个。

4. (1) 从 12 时起，时针走了 12 小时的 $\frac{1}{6}$，在下图的钟面上画出此时时针和分针的位置。(4 分)



(2) 从 12 时起，分针走了 1 小时的 $\frac{2}{3}$，在下图的钟面上画出时针和分针的位置。(4 分)



五、解决问题。(共 35 分)

1. 体育室有 20 个足球，借出了 $\frac{2}{5}$，还剩多少个足球？(5 分)

2. 四（1）班同学的 $\frac{1}{4}$ 参加象棋组，$\frac{2}{5}$ 参加合唱组，参加合唱组和参加象棋组的各有多少人？(6 分)

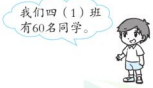

3. 25 个男同学、15 个女同学在操场上活动，其中 $\frac{1}{5}$ 在跳绳，剩下的在踢足球，则踢足球的有多少人？(6 分)

4. 一本书有 300 页，小红第一天看了全书的 $\frac{1}{2}$，第二天看了剩下的 $\frac{1}{2}$，第二天看了多少页？(6 分)

5. 爷爷今年 72 岁，爸爸的年龄是爷爷的 $\frac{1}{2}$，小红的年龄是爸爸的 $\frac{1}{4}$，小红今年多少岁？(6 分)

6. 李叔叔校对一份 40 页的资料，他从头开始校对，前两小时已经校对了这份资料的 $\frac{2}{5}$，第三小时开始他应该从哪一页开始校对？(6 分)

附加题：(10 分)

悟空和八戒各拿了 1 个同样大的月饼，悟空把 1 个月饼切成相等的 8 块，吃了 2 块；八戒把 1 个月饼切成相等的 4 块，吞了 1 块。悟空和八戒谁吃得多？(先画一画，再回答)



自己说说

老师点评

家长点评

微信公众号
教辅资料站

关注微信公众号“教辅资料站”获取更多学习资料

荣德基 好卷 三年级 数学 下 SJ版

第八、九单元 跟踪检测卷

小数的初步认识　数据的收集和整理（二）

时间：90分钟　满分：100分+10分

题号	一	二	三	四	五	六	附加题	总分
得分								

一、填空。（每空1分，共35分）

1. 一个小数，整数部分是6，小数部分是5，这个数是（　　），读作（　　）。
2. 小数4.2的整数部分是（　　），小数部分是（　　）。
3. 在括号里填上合适的数。

   0.8米＝（　　）分米　　7角＝（　　）元

   1米5分米＝（　　）米　　9元2角＝（　　）元
4. 在1.1、1.9、2.2这三个小数中，最接近整数1的是（　　），最接近整数2的是（　　）。
5. 在0，1，1.3，0.9，8，3.7，100中，整数有（　　），小数有（　　）。
6. 在○里填上“＞”或“＜”。

   4.8 ○ 5.2　　6.9 ○ 6.6　　3.4 ○ 2.9　　0.8 ○ 0.4

   2.8 ○ 3.7　　1.5 ○ 0.5　　5.1 ○ 5　　0.9 ○ 1
7. 根据规律填上合适的数。

   （1）（　　）、0.5、0.9、1.3、1.7、（　　）。

   （2）0.2、0.4、0.6、0.8、（　　）、（　　）、（　　）。

   （3）1.5、1.2、0.9、（　　）、（　　）、（　　）。
8. □.4＜2.5，□里面可以填（　　）。

   1.8＞1.□，□里面可以填（　　）。
9. 三年级同学的生日在4个季节的人数统计如下。

   （1）从表中可以看出，共调查了（　　）名同学。

   （2）（　　）季过生日的人数最多，（　　）季过生日的人数最少。

   （3）春季和冬季过生日的共有（　　）人。

季节	春	夏	秋	冬
人数	17	10	23	16

10. 小诺在计算加法时，把其中的一个加数2.3看成了23，得到的和是39。正确的结果是（　　）。

二、判断。（对的在括号里打“√”，错的打“×”。每题1分，共5分）

1. 比1小的数都是小数。（　　）
2. 大于0.3小于0.5的一位小数只有0.4。（　　）
3. 小华身高一点三米，写作1.3米。（　　）
4. 苹果每千克3.5元，那么10元能买3千克苹果。（　　）
5. 0.8比0.9大。（　　）

三、选择。（将正确答案的字母填在括号里。每题1分，共5分）

1. 买一支价钱是3.5元的签字笔，下面付钱方法适当的是（　　）。

   A. 付6枚5角　　B. 付1张5元　　C. 付一张5元和1张1元
2. 100米赛跑时，小云用了18.6秒，小灵用了17.3秒，小康用了16.8秒。（　　）跑得最快。

   A. 小云　　B. 小灵　　C. 小康
3. 从1里面减去0.1，减（　　）次结果为0。

   A. 10　　B. 100　　C. 1000
4. 马老师的身高为180厘米，比小林高3分米，小林的身高是（　　）米。

   A. 150　　B. 1.5　　C. 2.1
5. 计算8.6－2.7时，下面列式正确的是（　　）。

   A. 8.6 − 2.7 = 6.1　　B. 8.6 − 2.7 = 5.9　　C. 8.6 − 2.7 = 5.9

四、计算。（共16分）

1. 直接写得数。（每题1分，共8分）

   0.3＋0.7＝　　2.6＋2.9＝　　8.2＋2.8＝　　4.1＋0.9＝

   5.5－5＝　　8.6－3.6＝　　6.6＋2.4＝　　1.7－1.1＝
2. 用竖式计算。（每题2分，共8分）

   3.5＋4.8＝　　2.6＋0.7＝　　4.2－1.8＝　　3.4－0.9＝

姓名　学号　班级　学校
密　封　线
重点提示：请不要在密封线内答题哦！
微信公众号 教辅资料站
关注微信公众号“教辅资料站”获取更多学习资料

五、整理数据。（共 12 分）

下面是育才小学三年级同学参加某次安全知识竞赛的成绩。（单位：分）

97　61　54　88　75　93　78　90　95

89　58　84　80　100　69　90　75　94

82　98　84　88　68　91

（1）整理上面的数据，并填写下表。（6 分）

育才小学三年级同学参加安全知识竞赛成绩统计表

成绩/分	100	90～99	80～89	70～79	60～69	60 以下
人数						

（2）（　　）分数段的人数最多，（　　）分数段的人数最少。（2 分）

（3）按 90～100 分为优秀，80～89 分为良好，60～79 分为达标，60 分以下为待达标，把上面的成绩重新分段后填写下表。（4 分）

成绩	优秀	良好	达标	待达标
人数				

六、解决问题。（共 27 分）

1. 一堆煤有 8.5 吨，第一次用去 2.4 吨，第二次用去 3.3 吨，这堆煤两次一共用去多少吨？还剩多少吨？（5 分）

2. 学校举行跳高比赛，小华跳了 1.5 米，小明跳了 1.1 米，小兵跳了 1.2 米，小春跳了 1.3 米。把他们的成绩从高到低排列出来。（5 分）

3. 一条路已经修好了 7.6 千米，剩下的比修好的多 2.1 千米，这条路长多少千米？（5 分）

4. 一袋味精 5.4 元，一袋盐 1.5 元。一袋味精比一袋盐贵多少元？妈妈要买 1 袋味精和 2 袋盐，带 10 元钱够吗？（6 分）

5.



每本 7.8 元



每本 5.9 元

（1）一本《快乐作文》比一本《童话书》便宜多少元？（3 分）

（2）两种书各买一本，20 元够不够？（3 分）

附加题：（10 分）

仔细观察，用简便方法计算。

0.1＋0.2＋0.3＋0.4＋0.5＋0.6＋0.7＋0.8＋0.9

自己说说

老师点评

家长点评

关注微信公众号“教辅资料站”获取更多学习资料

期末复习冲刺卷 模块过关卷（一）

数与代数 统计

时间：90分钟 满分：100分+10分

题号	一	二	三	四	五	附加题	总分
得分							

一、填空。（每空1分，共19分）

1. 2028年是（　　）年，第一季度有（　　）天。
2. 3分米是$\frac{(\quad)}{(\quad)}$米，写成小数是（　　）米。8角是$\frac{(\quad)}{(\quad)}$元，写成小数是（　　）元。
3. 两个乘数末尾都有1个0，积的末尾至少有（　　）个0。
4. 一车化肥有1800千克，搬走（　　）千克后，正好还剩1吨。
5. 在括号里填上合适的小数。



6. 课外活动小组从16：00开始活动，40分钟后结束，结束时间是（　　）时（　　）分。
7. 按从大到小的顺序排列下列各量。

500米　5千米　5200米　25千米　4千米800米

8. 植树节那天，三年级同学上午种树14行，下午种树13行，平均每行种28棵树，三年级同学一共种树（　　）棵。
9. 一个篮球22元，王老师买了14个，付了400元，应该找回多少元？数量关系是（　　），列成综合算式是（　　）。
10.  黑棋子是白棋子的$\frac{1}{4}$，黑棋子有（　　）枚。
11. 有一张挂历，不小心被墨水弄脏了，只能看到这个月的5号是星期五，那么这个月的26号是星期（　　）。

二、判断。（对的在括号里打“√”，错的打“×”。每题2分，共10分）

1. 46×50的积的末尾只有1个0。（　　）
2. 0.5、0.9是小数，10.8不是小数。（　　）
3. 从上午8时到下午3时一共经过了5小时。（　　）
4. 36×15+5与36×(15+5)的结果相等。（　　）
5. 一场演出从19：00开始，2小时后演出结束。演出结束的时刻是9：00。（　　）

三、选择。（将正确答案的字母填在括号里。每题2分，共8分）

1. 9.6<9.（　），（　）里最小填（　　）。

A. 9　　B. 7　　C. 6

2. 下午3：30也就是（　　）。

A. 3：30　　B. 13：30　　C. 15：30

3. （　　）个500千克是2吨。

A. 2　　B. 4　　C. 8

4. 同学们排队做操，排成4队，每队8人。每队人数是总人数的（　　）。

A. $\frac{1}{32}$　　B. $\frac{8}{32}$　　C. $\frac{4}{32}$

四、计算。（共30分）

1. 直接写得数。（每题1分，共8分）

35×10=　　20×50=　　900÷3=　　0.6+0.9=

0.8−0.7=　　$\frac{1}{5}+\frac{3}{5}$=　　$\frac{7}{10}-\frac{4}{10}$=　　$\frac{1}{3}+\frac{1}{3}$=

2. 用竖式计算，带☆的要验算。（要验算的4分，其余每题3分，共13分）

☆49×83=　　4.5+2.3=

8.4−7.5=　　30×27=

3. 脱式计算。（每题3分，共9分）

72−9×7　　350÷7×5　　(480−80)÷8

荣德基好卷
微信公众号 教辅资料站
关注微信公众号“教辅资料站”获取更多学习资料

五、解决问题。（共 33 分）

1. 一些学生为布置礼堂做纸花。每 6 位同学一小组，每位同学做 12 朵纸花，20 个小组一共做了多少朵纸花？（4 分）

2. 小强在星期天帮助妈妈挖土豆，从上午 8 时到 11 时一共挖了 102 千克。平均每小时挖多少千克？（5 分）

3. 食堂里原有 42 吨煤，用去了$\frac{5}{7}$，又买来 24 吨，现在有多少吨煤？（5 分）

4. 儿童服装店购进 36 件童装，第一周卖出总件数的$\frac{2}{9}$，第二周卖出总件数的$\frac{5}{9}$，一共卖出了多少件？（5 分）

5. 李红买 1 副三角尺和 1 把直尺，一共用去 5. 3 元。

（1）直尺的价钱是多少元？（2 分）

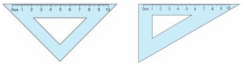

每副 3. 5 元

（2）直尺比三角尺便宜多少元？（2 分）

6. 学校舞蹈组女生的舞蹈鞋尺码如下：（单位：码）

32　30　32　34　36　37　34　35　35　34　34　36

36　32　35　36　37　35　34　35　36　34　35　35

（1）按从小到大的顺序整理上面的数据，把结果填入下表。（6 分）

码数						
人数						

（2）舞蹈组女生的舞蹈鞋共有（　　）种不同的尺码，鞋码最大的是（　　）码，最小的是（　　）码，穿（　　）码鞋的人数最多。（4 分）

附加题：（10 分）

学校图书馆购买了一些书，一共有 6 箱，每箱 24 本。管理员阿姨要把这些书放到 3 个书橱里，每个书橱有 3 层，平均每层放多少本书？

关注微信公众号“教辅资料站”获取更多学习资料

荣德基 好卷 三年级 数学 下 SJ版

期末复习冲刺卷 模块过关卷（二）

图形与几何

时间：90分钟 满分：100分+10分

题号	一	二	三	四	五	六	附加题	总分
得分								

姓名 学号 班级 学校

一、填空。（每空1分，共25分）

1. 一个长方形泳池面积是200平方米，宽是5米，它的长是（　　）米。
2. 一块正方形木板的周长是320厘米，这块木板的边长是（　　）厘米，面积是（　　）平方分米。
3. 长方形课桌面长1米，宽5分米，课桌面的面积是（　　）平方分米。
4. 在括号里填上合适的单位名称。
   数学书封面的面积约是3（　　）。
   一幢楼房高20（　　），一间教室的面积大约是48（　　）。
   一扇门高2（　　），面积大约是2（　　）。
5. 一张正方形纸，边长是1米，剪成边长是5分米的正方形纸，能剪成（　　）块。
6. 一块长方形铁皮，长13厘米，宽7厘米，从它上面剪下一个最大的正方形，这个正方形的面积是（　　）平方厘米。
7. 5平方米 =（　　）平方分米　　1200平方厘米 =（　　）平方分米
   4000平方分米 =（　　）平方米　　4000米 =（　　）千米
   20平方分米 =（　　）平方厘米　　8平方分米 =（　　）平方厘米
8. 在○里填上“>”“<”或“=”。
   1平方米○90平方分米　　5平方分米○490平方厘米
   9800平方厘米○98平方米　　200平方厘米○2平方分米
   500平方分米○50平方米　　1平方分米○99平方厘米
9. 一个边长为3厘米的正方形，如果它的边长增加2厘米，那么周长增加（　　）厘米，面积增加（　　）平方厘米。

二、判断。（对的在括号里打“√”，错的打“×”。每题1分，共5分）

1. 操场一圈长300平方米。（　　）
2. 一个正方形的边长是3分米，它的面积是12平方分米。（　　）
3. 8个边长1厘米的正方形能拼成一个大正方形。（　　）
4. 一本书封面的面积大约是4分米。（　　）
5. 用同一根铁丝围成正方形和长方形，它们的周长相等。（　　）

三、选择。（将正确答案的字母填在括号里。每题2分，共10分）

1. 下面的单位（　　）不是用来度量面积大小的。
   A. 平方厘米　　B. 千米　　C. 平方米
2. 一台电视机显示屏的面积大约是2400（　　）。
   A. 平方米　　B. 平方分米　　C. 平方厘米
3. 用16厘米长的铁丝围成长方形或正方形，长方形的周长（　　）正方形的周长，长方形的面积（　　）正方形的面积。
   A. 大于　　B. 小于　　C. 等于
4. 用52平方分米的布做每块500平方厘米的手帕，最多可以做（　　）块。
   A. 1　　B. 10　　C. 11
5. 一个正方形的边长扩大到原来的3倍，面积就扩大到原来的（　　）倍，周长就扩大到原来的（　　）倍。
   A. 3　　B. 6　　C. 9

四、按要求完成下面各题。（共20分）

1. 计算下面图形的周长和面积。（每题4分，共8分）

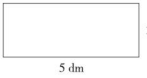



2. 填表。（每空2分，共12分）

	长	宽	周长	面积
长方形	4 cm	3 cm		
	8 dm	5 cm		
正方形	边长6 cm			

重点提示：请不要在密封线内答题哦！

关注微信公众号“教辅资料站”获取更多学习资料

五、操作题。(6 分)

下面每个小方格都是边长为 1 厘米的正方形，在方格图中先画一个边长是 4 厘米的正方形，再画一个与该正方形面积相等的长方形。



六、解决问题。(共 34 分)

1. 一块长方形水稻试验田，长 42 米，宽 20 米。如果每平方米施肥 3 千克，这块水稻试验田一共施肥多少千克？(6 分)

2. 用 24 米长的篱笆围一个正方形鸡舍，一面靠墙，这个正方形鸡舍的面积是多少？(6 分)



3. 一个正方形鱼池，小明沿边走一圈走了 240 米，鱼池的面积是多少平方米？(6 分)

4. 一个会议室的地面是长方形，长 12 米，宽 9 米，如果用边长 3 分米的地砖铺地，需要多少块这样的地砖？(8 分)

5. 小玲用面积是 49 平方厘米的正方形纸量一本书的封面，沿着长边一排摆了 6 张，沿着宽边一排摆了 4 张，这本书封面的面积是多少？(8 分)

附加题：(10 分)

要改造一个长 18 米，宽 5 米的长方形花坛，面积不变，如果将宽增加 4 米，那么长应减少多少米？

关注微信公众号“教辅资料站”获取更多学习资料

荣德基 好卷 三年级 数学 下 SJ版

期末复习冲刺卷

仿真模拟卷(一)

时间：90分钟　满分：100分+10分

题号	一	二	三	四	五	六	附加题	总分
得分								

姓名　学号　班级　学校

一、填空。(每空1分，共25分)

1. 25个30连加是(　　)；82×59的积是(　　)位数。

2. 在(　　)里填上合适的单位名称。


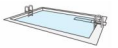


海豚体重为200(　　)　游泳池面积为800(　　)　汽车的速度为每小时120(　　)

3. (1)在括号里填上合适的小数。

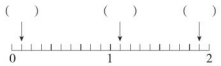

(2)3个数中，(　　)最接近0，(　　)离1最近。

4. 小月的生日是6月1日的前一天，他的生日是(　　)月(　　)日。

5. 在○里填上“>”或“<”。

0.8 ○ 1.2　　8元5角 ○ 8.6元　　33×29 ○ 29×23

800千克 ○ 1吨　　5千米 ○ 600米　　$\frac{1}{3}$吨 ○ $\frac{1}{2}$吨

6. 用1根铁丝刚好围成一个长20厘米，宽12厘米的长方形，现改围成一个正方形，正方形的面积是(　　)平方厘米。

7. 将175－57＝118，8×118＝944合并成一个综合算式是(　　)。

8. 小明的体重是爸爸的$\frac{1}{6}$，爸爸的体重是90千克，小明的体重是(　　)千克。

9. 右图每小格表示1平方厘米。那么阴影部分面积是(　　)平方厘米，阴影部分占整个长方形的(　　)，阴影部分的$\frac{1}{4}$是(　　)平方厘米。



10. 张大伯家收了1800千克苹果，每个箱子可以装28千克，准备70个箱子(　　)。(填“够”或“不够”)

二、判断。(对的在括号里打“√”，错的打“×”。每题1分，共5分)

1. 北京距拉萨4000米。(　　)

2. 张婷婷的生日是2008年6月31日。(　　)

3. 把两个完全一样的正方形拼成一个长方形，长方形的面积一定是每个正方形的2倍。(　　)

4. $\frac{5}{10}$米比$\frac{3}{10}$米多0.2米。(　　)

5. 单数的月份都是31天，双数的月份都是30天。(　　)

三、选择。(将正确答案的字母填在括号里。每题1分，共5分)

1. 某学校下午1：00上课，下午3：20放学，学生下午在校时间是(　　)。
A. 3小时40分　　B. 2小时20分　　C. 1小时40分

2. 下面是闰年的是(　　)。
A. 1988年　　B. 2100年　　C. 1986年

3. 小军和小强比赛跑50米。小军用了10.2秒，小强用了10.3秒，(　　)跑得快。
A. 小军　　B. 小强　　C. 无法比较谁

4. 下面算式中去掉括号不改变算式结果的是(　　)。
A. 125－(38＋16)　　B. 36×(24÷8)　　C. (27＋35)×49

5. 一袋黄豆重48千克，(　　)袋这样的黄豆大约重1吨。
A. 2　　B. 20　　C. 200

四、计算。(共22分)

1. 直接写得数。(每题0.5分，共4分)

16×50＝　　11－1.1＝　　$\frac{5}{9}+\frac{4}{9}$＝　　$\frac{3}{8}-\frac{3}{8}$＝

75×10＝　　44×40＝　　42×58≈　　3.7＋7.3＝

2. 用竖式计算，带★的要验算。(要验算的3分，其余每题2分，共9分)

7.5＋2.8＝　　8.4－5.9＝　　★68×32＝　　76×60＝

重点提示：请不要在密封线内答题哦！

关注微信公众号“教辅资料站”获取更多学习资料

3. 脱式计算。(每题3分，共9分)

274 − (76 + 56)　　(848 − 520) ÷ 8　　18 × (250 − 236)

五、操作题。(6分)

图中每个小方格表示1平方厘米，在方格纸上画一个长4厘米、宽2厘米的长方形，它的周长是(　　)厘米，面积是(　　)平方厘米。再把这个长方形的$\frac{1}{4}$涂上色。



六、解决问题。(共37分)

1. 一本书有470页。还剩多少页没有看？(7分)



2. 一块边长为40分米的正方形土地，如果每平方米收粮食8千克，这块土地可以收多少千克粮食？(7分)

3. 一条公路，已经修了7.5千米，没有修的比已经修的长2.8千米，这条公路一共有多少千米？(7分)

4. 王大伯有一块长60米的长方形菜地（如图），恰好能平均分成3个正方形。王大伯想用这块菜地的$\frac{2}{3}$种西红柿。



(1) 这块菜地的面积有多少平方米？(3分)

(2) 西红柿地有多少平方米？(4分)

5. 下面是西城小学举行的知识竞赛中部分学生的成绩。(单位：分)

姓名	得分	姓名	得分	姓名	得分	姓名	得分
许　芳	96	王旭新	92	杜　伟	89	王　怡	82
李　欣	87	刘　苹	97	高　兰	88	陆　涛	62
田　兵	69	邹　悦	83	曹　静	93	周昕宇	85
陈一明	79	吴　昊	91	叶　婷	90	李　嘉	92

(1) 填表。(3分)

等级	优秀	良好	及格
成绩/分	90 ~ 100	80 ~ 89	60 ~ 79
人数			

(2) 这些学生的成绩中，最高是多少？最低是多少？这两个成绩相差多少分？(6分)

附加题：(10分)

如图，一个正方形草坪，如果把这个草坪的边长增加3米，草坪的面积就增加81平方米。原来草坪的面积是多少平方米？

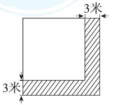

关注微信公众号“教辅资料站”获取更多学习资料

荣德基 好卷 三年级 数学 下 SJ版

期末复习冲刺卷

仿真模拟卷（二）

时间：90分钟　满分：100分+10分

题号	一	二	三	四	五	六	附加题	总分
得分								

一、填空。（每空1分，共25分）

1. 小刚买了一本笔记本用了7元8角，也就是（　　）元。
2. 75×40的积的末尾有（　　）个零。与42相邻的两个数的积是（　　）。
3. 小东的生日在一年的倒数第三天，小东的生日是（　　）月（　　）日。
4. 在（　　）里填上合适的单位名称。

一辆卡车重4（　　）　　小明妈妈的身高大约为1.62（　　）

一个苹果约重200（　　）　　数学书的封面的面积大约是400（　　）

5. 把71－8＝63，63×7＝441合并成一个综合算式是（　　）。
6. 猴妈妈买回来18个桃，小猴第一天吃了这些桃的$\frac{1}{3}$，第二天吃了剩下的$\frac{1}{4}$。

小猴第一天吃了（　　）个桃，第二天吃了（　　）个桃。

7. 在◯里填上“＞”“＜”或“＝”。

0.6◯0.3　　9元6角◯9.6元　　13×29◯19×23

10分钟◯$\frac{1}{3}$小时　6平方米◯600平方厘米　　5千克◯3吨

8. 一本故事书共120页，王浩已经看了4天，每天看24页，还剩多少页没有看？

剩下的页数＝共有的页数－（　　），列综合算式为（　　）。

9. 一艘轮船上午7时从南京出发，晚上8时到达江西九江。用24时记时法表示是从（　　：　　）到（　　：　　），一共经过了（　　）小时。
10. 王大妈利用一面墙用篱笆围一个长10米，宽6米的养鸡场，这个养鸡场占地（　　）平方米，至少要用篱笆（　　）米。

二、判断。（对的在括号里打“√”，错的打“×”。每题1分，共5分）

1. 估算41×29的积约是1200。（　　）
2. 16个桃子平均分给2只小猴，每只小猴分到这些桃的$\frac{1}{2}$。（　　）
3. 周长不相等的两个长方形，它们的面积一定不相等。（　　）
4. 晚上11时用24时记时法表示是23时。（　　）
5. 在数据的收集和整理过程中，只能用一种标准进行分类。（　　）

三、选择。（将正确答案的字母填在括号里。每题1分，共5分）

1. 一块砖重2千克，（　　）块砖重1吨。

A. 5　　B. 50　　C. 500

2. 下面说法正确的是（　　）。

A. 每年都是365天　　B. 2200年是闰年　　C. 小红的生日是4月30日

3. 下面的算式中，（　　）的结果和125＋125×7的结果相等。

A.（125＋125）×7　　B. 125×7＋125×3　　C. 125×（7＋1）

4. 分针从数字12走到数字3，走过了一圈的（　　）。

A. $\frac{3}{60}$　　B. $\frac{9}{12}$　　C. $\frac{3}{12}$

5. 把一张长11厘米，宽4厘米的长方形彩纸剪成尽可能大的正方形，最多可以剪（　　）个这样的正方形。

A. 2　　B. 3　　C. 4

四、计算。（共32分）

1. 直接写得数。（每题1分，共8分）

80×10＝　　$\frac{5}{10}+\frac{1}{10}$＝　　10×55＝　　$\frac{5}{7}-\frac{3}{7}$＝

42×2＝　　0.9－0.5＝　　0.5＋0.3＝　　800×5＝

2. 用竖式计算，带★的要验算。（要验算的每题4分，其余每题2分，共12分）

★78×49＝　　60×54＝

★47×36＝　　3.9＋2.7＝

3. 脱式计算。（每题3分，共12分）

95÷5＋127　　（708＋258）÷6

800－16×9　　18×（537－448）

荣德基好卷

重点提示：请不要在密封线内答题哦！

关注微信公众号“教辅资料站”获取更多学习资料

五、操作题。（共 7 分）

1. 按要求在方格纸上画一画。



（1）在上面的方格纸上画出面积是 9 平方厘米的长方形和正方形各一个。（每个小方格表示 1 平方厘米）（2 分）

（2）把这个正方形的 $\frac{2}{3}$ 涂上阴影。（1 分）

2. 某年 11 月 1 日是星期一，在右边制作这个月的月历，并填空。（制作月历 2 分）

日	一	二	三	四	五	六

（1）这个月里有_____个星期五。（1 分）

（2）这个月一共应到校上课_____天。（1 分）

六、解决问题。（共 26 分）

1. 四（1）班有 52 名同学去春游，平均每人花费 39 元，带 2000 元够吗？（5 分）

2. 笑笑的一个桃子比跳跳的一个桃子便宜多少钱？（6 分）

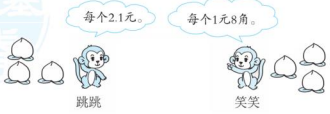

3. 一张纸长 30 厘米，宽 20 厘米，先剪下一个最大的正方形，再从余下的纸上剪下一个最大的正方形，这时剩下的图形是什么形状？它的面积是多少？（6 分）

4. 下面是三年级奥数小组同学参加市奥数竞赛的成绩。

学号	1	2	3	4	5	6	7	8	9	10
性别	男	男	男	男	男	女	女	男	女	男
成绩/分	75	92	68	95	88	65	80	92	78	94
学号	11	12	13	14	15	16	17	18	19	20
性别	女	男	女	男	女	男	男	女	男	男
成绩/分	58	75	66	48	86	89	76	88	78	68

（1）完成下面的统计表。（3 分）

成绩/分	85～100	70～84	60～69	60 分以下
人数				

性别	男	女
人数		

（2）成绩最好的是几号同学？最差的是几号同学？他们相差多少分？（3 分）

（3）三年级参加市奥数竞赛的同学一共有多少人？成绩在哪个范围内的人数最多？（3 分）

附加题：（10 分）

一篮苹果连篮共重 3.2 千克，卖掉一半苹果后，连篮共重 1.7 千克。苹果和篮子各有多重？

关注微信公众号“教辅资料站”获取更多学习资料

期末复习冲刺卷

江苏省某名校期末测试卷

时间：90分钟　满分：100分

题号	一	二	三	四	五	总分
得分						

一、填空。（每空1分，共26分）

1. 1年有（　　）个季度，1个季度有（　　）个月。
2. 在括号里填上适当的单位名称。
一辆汽车每小时行60（　　）。　　一头大象的体重是4000（　　）。
一辆小型货车的载质量约为5（　　）。　　一个小相框的面积为2（　　）。
3. 在括号里填上合适的数。
（　　）千克 =4 吨　　8 千米 =（　　）米　　3 元7 角 =（　　）元
1000 平方分米 =（　　）平方米　　12 分 =（　　）/（　　）时
4. 12 个苹果平均分给4 个人，每人分得总数的（　　）/（　　），3 人分得（　　）个。
5. 在括号里填上合适的分数。

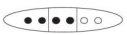

白圆圈占总数的（　　）



（　　）



（　　）元

6. 晚上7 时用24 时记时法表示为（　　）；14 时用普通记时法表示为（　　）。
7. 用2 个边长5 厘米的正方形拼成一个长方形，这个长方形的周长是（　　）厘米，面积是（　　）平方厘米。
8. 按规律填数。
（1）0.1、0.6、1.1、1.6、（　　）。
（2）8.1、7.2、6.3、（　　）、（　　）。
9. 下面是三种水果的价格。

苹果	橘子	香蕉
每千克9.3 元	每千克7.5 元	每千克7.8 元

每千克香蕉比每千克橘子贵（　　）元。
买1 千克苹果和1 千克香蕉，一共要付（　　）元。
按7 个苹果1 千克计算，1 元钱能买1 个苹果吗？（　　）

二、选择。（将正确答案的字母填在括号里。每题2分，共14分）

1. 小明和小林带了同样多的钱去买课外书，小明用去了所带钱数的$\frac{1}{4}$，小林用去了所带钱数的$\frac{3}{4}$。（　　）剩下的钱多一些。
A. 小明　　B. 小林　　C. 无法比较谁
2. 5.8 > □.5，方框里可以填（　　）个数。
A. 5　　B. 6　　C. 4
3. 将一根绳子对折2 次后，得到的绳子长度是原来绳子长度的（　　）。
A. $\frac{1}{5}$　　B. $\frac{1}{3}$　　C. $\frac{1}{4}$
4. 在右图长方形中有甲、乙两部分，下列说法正确的是（　　）。



A. 甲、乙周长相等，面积也相等
B. 甲、乙周长不相等，面积相等
C. 甲、乙周长相等，面积不相等
5. 下面的年份中，是闰年的是（　　）。
A. 2012 年　　B. 2014 年　　C. 2018 年
6. 将3 块相同的蛋糕平均分给6 个小朋友，下列说法正确的是（　　）。
A. 每人分得这些蛋糕的$\frac{3}{6}$　　B. 每人分得这些蛋糕的$\frac{2}{6}$
C. 每人分得半块蛋糕
7. 右图中阴影部分能用（　　）来表示。



A. $\frac{1}{2}$　　B. $\frac{1}{3}$　　C. $\frac{1}{4}$

三、计算。（共24分）

1. 直接写得数。（每题1分，共8分）

360 ÷9 =	94 −57 =	50 ×80 =	4.7 +3 =
72 ÷6 =	210 ÷7 =	$\frac{2}{7}+\frac{5}{7}$ =	$\frac{4}{5}-\frac{1}{5}$ =

2. 用竖式计算，带★的要验算。（要验算的3 分，其余每题2 分，共7 分）
4.8 +1.7 =　　72 ×50 =　　★25 ×38 =

重点提示：请不要在密封线内答题哦！

关注微信公众号“教辅资料站”获取更多学习资料

3. 脱式计算。（每题 3 分，共 9 分）

$30+70\times8$　　$200+560\div7$　　$320\div(4\times2)$

四、画一画，填一填。（共 8 分）

1. 在右图大正方形中有 16 个边长 1 厘米的小正方形。（4 分）

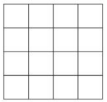

（1）画一个面积是 9 平方厘米的正方形，并涂上阴影。

（2）剩下的所有小正方形占大正方形的$\frac{(\quad)}{(\quad)}$。

2. 下面每一个小方格都是边长 1 厘米的正方形。（4 分）

（1）画出一个面积是 4 平方厘米的正方形。

（2）画出一个面积是 12 平方厘米的长方形。

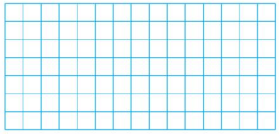

五、解决问题。（共 28 分）

1. 4 筐梨，连筐称一共 100 千克。如果每个空筐重 5 千克，这些梨一共有多少千克？（5 分）

2. 一个长方形蔬菜大棚，长 40 米，宽 15 米。如果每平方米可以栽 8 棵茄子苗，这个大棚一共可以栽多少棵茄子苗？（5 分）

3. 一本书共有 64 页。小军第一天看了全书的$\frac{2}{8}$，第二天看了全书的$\frac{3}{8}$。两天一共看了多少页？（5 分）

4. 王大伯在河边围了一块正方形菜地（如图），一共用去 18 米竹篱笆。



（1）这块菜地的面积是多少平方米？（3 分）

（2）如果这块地的$\frac{1}{3}$种番茄，其余的部分种黄瓜，那么番茄和黄瓜的种植面积分别是多少平方米？（4 分）

5. 一根绳子长 26.2 米，小明第一次用去 7.6 米修护栏，第二次用去 3.8 米修篱笆，还剩多少米？（6 分）

自己说说

老师点评

家长点评

关注微信公众号“教辅资料站”获取更多学习资料

荣德基 好卷 三年级 数学 下 SJ版

期末复习冲刺卷

山西省某名校期末测试卷

时间：90分钟　满分：100分

题号	一	二	三	四	五	六	总分
得分							

一、计算要细心。（共30分）

1. 直接写得数。（每题1分，共12分）

$14\times10=$	$24\times5=$	$630\div9=$	$39\times41\approx$
$60\times80=$	$800\times5=$	$240+60=$	$0.5+0.7=$
$20\times50=$	$305\times0=$	$1500-900=$	$\frac{4}{7}-\frac{3}{7}=$

2. 用竖式计算，带☆的要验算。（要验算的3分，其余每题2分，共9分）

$32\times21=$　　☆$48\times63=$　　$50\times36=$　　$11.5-5.6=$

3. 脱式计算。（每题3分，共9分）

$96-48\div8$　　$35\times13+45$　　$18\times(437-381)$

二、填空需细致。（每空1分，共31分）

1. 在括号里填上合适的单位名称。

爸爸每天在盐渎公园晨练大约跑3（　　）。

一辆货车的载质量大约是3（　　）。

教室里的课桌长100（　　），宽4（　　），课桌面的面积是40（　　）。

2. 中国教师节是每年的（　　）月（　　）日，这个月有（　　）天，它在第（　　）季度。

3. 在（　　）里填上合适的数。

5平方米＝（　　）平方分米　3000千克＝（　　）吨　7角＝（　　）元

4. 杨老师计划为学校跳绳队的31名队员每人置办一套运动服，运动服每套58元，大约需要（　　）元。

5. 右图中上午（　　）时到晚上（　　）时禁止机动车通行。



6. 在○里填上“＞”或“＜”。

$5.6\bigcirc6.5$　　$26\times31\bigcirc26\times30+1$

$\frac{7}{19}\bigcirc\frac{4}{19}$　　$257-(57+38)\bigcirc257-57+38$

7. 用两个长10厘米、宽5厘米的长方形拼成一个大长方形（非正方形），它的周长是（　　）厘米，面积是（　　）平方分米。

8. 在括号里填上合适的分数。



☆的个数占总个数的（　　）



（　　）　　（　　）

9. 找规律填数。

（1）4.9、4.2、3.5、2.8、（　　）、（　　）。

（2）$\frac{1}{2}$、$\frac{1}{6}$、$\frac{1}{18}$、$\frac{1}{54}$、（　　）、（　　）。

10. 你能用3、6、7三个数算出24点吗？请列出综合算式：＿＿＿＿＿＿＝24。

11. 学校买来48把扫帚，三年级领了这些扫帚的$\frac{5}{6}$，三年级领了（　　）把。

12. 妈妈比小红大25岁，妈妈今年的岁数是小红的6倍，小红今年（　　）岁。

三、选择请推敲。（将正确答案的字母填在括号里。每题1分，共5分）

1. 下列年份中，（　　）不是闰年。

A. 1996年　　B. 2000年　　C. 2015年

2. 把一张长方形纸连续对折3次再展开，其中的1份是这张纸的（　　）。

A. $\frac{1}{2}$　　B. $\frac{1}{4}$　　C. $\frac{1}{8}$

3. 右图长方形菜地中白菜地和萝卜地的面积（　　），周长（　　）。



A. 相等　　B. 不相等　　C. 无法比较

4. 下列说法正确的是（　　）。

A. 把一堆苹果分成4份，每份是这堆苹果的$\frac{1}{4}$

B. 闰年2月份出生的人每4年才能过一个生日

C. 2400年是闰年

5. 学校进行百米赛跑，三名同学成绩分别是甲用了16.7秒，乙用了15.2秒，丙用了16.9秒，最先到达终点的是（　　）。

A. 甲　　B. 乙　　C. 丙

姓名　学号　班级　学校

重点提示：请不要在密封线内答题哦！

关注微信公众号“教辅资料站”获取更多学习资料

四、操作有讲究。（共 10 分）

1. 下图中每个小方格都是边长为 1 厘米的正方形。（6 分）

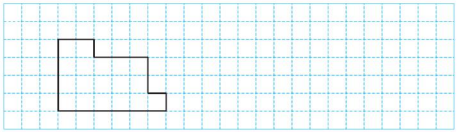

（1）方格中已知图形的周长是（　　）厘米，面积是（　　）平方厘米。

（2）画出一个与已知图形周长相等的长方形，你所画的长方形面积是（　　）平方厘米。

2. 希望小学三年级学生视力检查结果如下表（单位：人），请根据表格中的信息回答问题。（4 分）

班级	5.0 及以上	4.7～4.9	4.1～4.6	4.0 及以下
三（1）班	25	11	6	5
三（2）班	27	13	3	2
三（3）班	28	10	5	4

（1）希望小学三年级学生视力在 4.0 及以下的有（　　）人。三（3）班有（　　）人视力没有达到 5.0 及以上。

（2）视力在 4.7～4.9 人数最多的是（　　）班，视力在 5.0 及以上人数最少的是（　　）班。

五、解题有策略。（共 19 分）

1. 王叔叔家装修新房，客厅需要铺设 38 块地砖，王叔叔选中的地砖每块 62 元，他准备 2500 元去买，钱够不够呢？（3 分）

2. 如果每人每天节约 2 千克水，一个 4 口人的家庭一年（按 365 天计算）可以节约多少千克水？大约是多少吨？（4 分）

3. 某图书馆每天上午 9 时开馆，下午 5 时闭馆，据图书管理员统计，平均每小时借出 250 本图书，那么一天一共借出多少本图书？（4 分）

4. 美术课上小明在一张长方形纸上设计了这样的图案（如右图）。已知每个小方格的面积是 4 平方厘米，你能算出这张长方形纸的面积吗？（4 分）

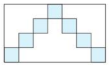

5. 下表是玲玲在大润发超市了解到的牙刷、牙膏的价格。

	第一种	第二种	第三种
牙刷	2.4 元	2.6 元	1.9 元
牙膏	4.5 元	4.2 元	3.5 元

买一把牙刷和一支牙膏最多花多少元？最少呢？（4 分）

六、探究与应用。（共 5 分）

1. 找规律填数。（2 分）

$\frac{1}{2}$、0.2、$\frac{1}{4}$、0.4、$\frac{1}{8}$、0.6、（　　）、（　　）。

2. 小红和小强一共写了 60 个大字，小红写的个数是小强的 3 倍。小红比小强多写了多少个大字？（3 分）

关注微信公众号“教辅资料站”获取更多学习资料

第一单元跟踪检测卷

两位数乘两位数

一、1. 24×2　1　480

2. 4800　千　3. 2　1000

4. 1　12　30　360　31　372

5. ＞　＜　＞　＝

6. 3　2

7. 20　4　30　42

8. 192　208

9. 1500　10. 672

二、1. √　2. √　3. ×　4. ×　5. √

三、1. B　2. C

3. A　【点拨】最小是 10×13=130，所以积不可能是两位数。

4. C　5. C

四、1. 750　4800　900　960　960　3570　0　75　1000　1000　8100　0

2. 79×68=5372　80×35=2800

$$\begin{array}{r} 79 \\ \times\ 68 \\ \hline 632 \\ 474 \\ \hline 5372 \end{array} \qquad \begin{array}{r} 35 \\ \times\ 80 \\ \hline 2800 \end{array}$$

45×75=3375　12×44=528

$$\begin{array}{r} 45 \\ \times\ 75 \\ \hline 225 \\ 315 \\ \hline 3375 \end{array} \qquad \begin{array}{r} 12 \\ \times\ 44 \\ \hline 48 \\ 48 \\ \hline 528 \end{array}$$

3. （46×59）　（39×62）　（78×29）

五、200　400　600　800　当一个乘数不变时，另一个乘数扩大几倍，积就扩大几倍

六、1. 38×15=570（千克）

答：学校一共购进大米 570 千克。

2. 85×12+85=1105（人）

答：一天一共有 1105 人参观。

3. 52+18=70（元）

70×50=3500（元）

答：一共需要 3500 元。

4. 28×5×4=560（个）

答：5 只母鸡 4 个月可以生产 560 个鸡蛋。

5.（1）69×40≈2800（元）

49×40≈2000（元）

57×40≈2400（元）

答：买的是第②种短袖衫。

（2）49×40=1960（元）

2000−1960=40（元）

答：实际用了 1960 元，找回 40 元。

（3）（答案不唯一）如果买第③种短袖衫，实际要用多少元？

57×40=2280（元）

答：实际要用 2280 元。

6. 24×25=600（千克）

48×12=576（千克）600＞576

答：这些大米够吃 12 天。

附加题：96×87=8352

答：它们的积最大应是 8352。

第二、三单元跟踪检测卷

千米和吨　解决问题的策略

一、1. 千米　km　公里

2. 吨　t

3. 270

4. 500　2

5. 154　【点拨】共有的＝分了的＋剩下的。

6. 500　400

7. 厘米　千克　米　千米　吨　米

8. 2　7000　120　9000　5　7

9. 3　10. 479

二、1. ×　2. ×　3. ×　4. ×　5. ×

6. ×　【点拨】小美比小勇多 12 枚，则小勇有 36−12=24（枚），两人一共有 36+24=60（枚）。

三、1. C

2. B　【点拨】注意换算单位。

3. B　4. B　5. B

四、1.（1）4 吨＞3800 千克＞40 千克＞3800 克

（2）54 千米＞6 千米＞5400 米＞4500 米

2.



3 吨　8300 克　300 千克　1000 克

3.（1）66+55=121（棵）

121+66=187（棵）

（2）45×2=90（台）

五、1. 1 吨=1000 千克

1000−350−400=250（千克）

答：还剩 250 千克。

2. 400×5×7=14000（米）

14000 米=14 千米

答：王强一周（7 天）跑 14000 米，合 14 千米。

3. 509+112+299=920（元）

1000−920=80（元）

答：妈妈最少剩下 80 元。

4. 18×4+18=90（只）

答：梅花鹿和羚羊一共有 90 只。

5.（1）65+15+65=145（千克）

答：苹果和香蕉一共有 145 千克。

（2）65×3=195（千克）

195−65=130（千克）

答：西瓜比香蕉多 130 千克。

6. 补充条件：张叔叔每小时行驶 85 千米

85×2=170（千米）

170−168=2（千米）

答：张叔叔比李叔叔多行驶了 2 千米。

【点拨】补充条件不唯一。

附加题：48−3=45（张）

45÷5=9（张）

9−3=6（张）

答：小凡原有邮票 6 张。

【点拨】先求出成成现在有多少张，再求出小凡现在有多少张，最后求出小凡原来的张数。

第四单元跟踪检测卷

混合运算

一、1. 乘　减　255　加　乘　3400

2. 200−83×2=34　5×4+30=50

3. ＞　＝　＜　＞　＜　＜

4. 46　5. 5

6. 345

二、1. ×　2. √　3. ×　4. √　5. √

三、1. A　2. B　3. A　4. C

5. A　【点拨】原来的＝送走的＋还剩的−又收集的

四、1. 10　416　17　40　200　55　21　30

2. 14×18+520　780÷3+77

=252+520　=260+77

=772　=337

67+34÷2　546−9×34

=67+17　=546−306

=84　=240

（28+62）×23　36÷4×24

=90×23　=9×24

=2070　=216

3. ×　342−42÷6　×　50−16+20

=342−7　=34+20

=335　=54

关注微信公众号“教辅资料站”获取更多学习资料

4. （1）8－5＝3　9－1＝8　8×3＝24
（2）3×6＋8－2＝24
（3）3×（6－5）×8＝24
【点拨】答案不唯一。

五、1.（800－480）÷8＝40（个）
答：剩下的平均每天加工40个零件。
2.（36＋34）×5＝350（棵）
答：两个班一共植树350棵。
3.（1）66＋66×3＝264（只）
答：养殖场一共有奶牛和绵羊264只。
（2）66×3－66＝132（只）
答：养殖场的绵羊比奶牛多132只。
4. 80÷5×52＝832（元）
答：一共要832元。
5. 900÷（9－3）＝150（米）
答：实际平均每分钟骑150米。

附加题：460÷5－80＝12
80＋12×5＝140
答：正确的结果是140。
【点拨】反过来先算出方框里的数。

第五单元跟踪检测卷

年、月、日

一、1. 12　1、3、5、7、8、10、12　31
4、6、9、11　30　2
2. 2022　90
3. 闰　29　366
4. 4　20
5. 365　52　1
6. 5　40　23　30　17　50
7. 7　【点拨】下午4时转成24时记时法是16时，上午9时转成24时记时法是9时，16－9＝7（时）。
8. 40
9. 8　31　9　28　4　26　2　29
10. 4　【点拨】晚上8时到凌晨12时是4小时。

二、1. ×　2. √　3. √　4. √　5. ×

三、1. C　2. C　3. C
4. B　【点拨】2019年是平年，2月只有28天。

四、1. 6：30　12：00　15：45　23：00
2. 下午5时50分　早上10时
下午4时25分　深夜12时
3. 
4.（1）2　3　（2）闰　（3）略

五、1. 15时＋2小时30分＝17时30分
答：火车17时30分到达南京。
2. 下午5时＝17时
17时－8时30分＝8小时30分
答：这个纪念馆每天开放8小时30分。
3. 第三季度总天数：
31＋31＋30＝92（天）
92×9＝828（千瓦时）
答：这个季度共节约用电828千瓦时。
4. 55－30＝25（分钟）　25×37＝925（米）
答：她家离学校有925米。
5.（1）7：20－7：00＝20（分钟）
答：这个栏目播出20分钟。
（2）下午6时
（3）8：35－7：25＝1小时10分钟
答：相隔1小时10分钟。

附加题：4×8＝32（分钟）
7时30分＋32分钟＝8时2分
答：第5班车应该在8时2分发出。
【点拨】5辆班车有4个时间段。

期中检测卷

一、1. 千米　吨　克　厘米　千克
2. 四　千
3.（186－72）÷6＝19
45＋18×15＝315
4. 5或0　5. 四　90　3
6. <　>　<　>　=　>
7. 8时30分　5时30分　9
8. 108
9. 5×（7－1）－6＝24　（答案不唯一）
10. 372

二、1. ×　2. ×　3. ×　4. ×　5. √

三、1. B　2. B　3. B　4. C
5. C　【点拨】注意换算单位。

四、1. 70　12　140　58　78　90　2100　42　560　3000　250　60　200　14　300　63
2. 56×34＝1904
56　验算：34
×34　×56
224　204
168　170
1904　1904
40×38＝1520
38
×40
1520
85×79＝6715
85　验算：79
×79　×85
765　395
595　632
6715　6715
68×70＝4760
68
×70
4760
3. 48×12－220　25+45×50
=576－220　=25+2250
=356　=2275
786－（253+147）　（428+72）÷5
=786－400　=500÷5
=386　=100

五、65－20＋65＝110（名）
16×2＝32（个）

六、1. 40×50＝2000（千克）
2000千克＝2吨
答：共重2000千克，合2吨。
2. 19×29＝551（元）
551＜600
答：带600元够。
3. 下午2时＝14时　14－10＝4（时）
320÷4＝80（棵）
答：他平均每小时喷洒80棵。
4. 150－32×3＝54（页）
答：还剩54页没有看。
5. 8×12×3＝288（元）
答：一共需要288元。
6.（1）36×4＝144（元）
答：订阅一份《电视节目报》全年要144元。
（2）21×12＝252（元）
答：有线电视收视维护费全年要252元。

附加题：（32＋4）×2＝72（厘米）
答：原来这根铁丝有72厘米长。

第六单元跟踪检测卷

长方形和正方形的面积

一、1. 平方米　平方分米　平方厘米
2. 900　1000　70　6
3. 平方厘米　平方厘米　平方分米
平方分米　平方米　平方分米
4. 6400　64
5. 40　4000
6. <　>　=　<

关注微信公众号“教辅资料站”获取更多学习资料

7. 20

8. 120　144

9. 75　10. 6

11. 32

12. 15　正方　9

二、1. ×　2. √　3. ×　4. ×　5. √

三、1. C　2. A　3. C　B　4. B　5. A

四、(1)



【点拨】所画长方形不唯一。

(2) 11

五、60 cm^2　38 cm　9 dm　26 dm

20 m　200 m^2

边长 4 m　16 m^2　64 cm^2　32 cm

六、1. 11×5=55（平方分米）

55 平方分米=5500 平方厘米

答：它的面积是 55 平方分米，合 5500 平方厘米。

2. 240÷4=60（米）

60×60=3600（平方米）

答：鱼池的面积是 3600 平方米。

3. 60×8×5=2400（平方米）

答：能给 2400 平方米的地面洒上水。

4. 42÷6=7（米）

(7+6)×2=26（米）

答：长是 7 米。小青绕花坛走了一圈走了 26 米。

5. (8−6)×6=12（平方厘米）

答：剩下图形的面积是 12 平方厘米。

6. 6×3×5=90（千克）

答：这块菜地一共可以收韭菜 90 千克。

附加题：



涂色略

第七单元跟踪检测卷

分数的初步认识（二）

一、1. $\frac{1}{4}$　$\frac{3}{8}$

2. $\frac{6}{7}$　$\frac{1}{8}$

3. $\frac{5}{9}$　$\frac{4}{9}$

4. 3　2

5. <　>　<　<

6. $\frac{1}{15}$　$\frac{1}{15}$　$\frac{7}{15}$

7. 4　$\frac{1}{3}$　2

8. $\frac{6}{10}$　8　$\frac{7}{10}$　50　7　$\frac{7}{1000}$

9. $\frac{1}{8}$

二、1. B　2. B

3. C　【点拨】小红胜就是小明输，所以小红胜了 5 次，总次数是 13 次。

4. B　5. A

三、$\frac{3}{9}$　$\frac{3}{4}$　$\frac{2}{5}$　$\frac{7}{8}$　$\frac{3}{8}$　0

四、1. $\frac{2}{5}$　$\frac{5}{9}$

2.

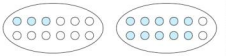

3. 分一分略　3

4. (1)



(2)



五、1. 20÷5×2=8（个）

20−8=12（个）

答：还剩 12 个足球。

2. 60÷4=15（人）

60÷5×2=24（人）

答：参加合唱组的有 24 人，参加象棋组的有 15 人。

3. 25+15=40（人）

40÷5=8（人）

40−8=32（人）

答：踢足球的有 32 人。

4. 300÷2=150（页）

300−150=150（页）

150÷2=75（页）

答：第二天看了 75 页。

5. 72÷2=36（岁）

36÷4=9（岁）

答：小红今年 9 岁。

6. 40÷5×2=16（页）

16+1=17（页）

答：第三小时开始他应该从 17 页开始校对。

附加题：



悟空和八戒吃得一样多。

第八、九单元跟踪检测卷

小数的初步认识　数据的收集和整理（二）

一、1. 6.5　六点五　2. 4　2（或 0.2）

3. 8　0.7　1.5　9.2

4. 1.1　1.9

5. 0，1，8，100　1.3，0.9，3.7

6. <　>　>　>　<　>　>　<

7. (1) 0.1　2.1

(2) 1　1.2　1.4

(3) 0.6　0.3　0

8. 0、1、2　0~7

9. (1) 66　(2) 秋　夏　(3) 33

10. 18.3　【点拨】先求出一个加数=39−23=16，正确结果：16+2.3=18.3。

二、1. ×　2. √　3. √　4. ×　5. ×

三、1. B　2. C

3. A　【点拨】1 里面有 10 个 0.1。

4. B　【点拨】注意单位。

5. C

四、1. 1　5.5　11　5　0.5　5　9　0.6

2. 3.5+4.8=8.3　　2.6+0.7=3.3

$$\begin{array}{r} 3.5 \\ +\ 4.8 \\ \hline 8.3 \end{array} \qquad \begin{array}{r} 2.6 \\ +\ 0.7 \\ \hline 3.3 \end{array}$$

4.2−1.8=2.4　　3.4−0.9=2.5

$$\begin{array}{r} 4.2 \\ -\ 1.8 \\ \hline 2.4 \end{array} \qquad \begin{array}{r} 3.4 \\ -\ 0.9 \\ \hline 2.5 \end{array}$$

五、(1) 1　8　7　3　3　2

(2) 90~99 分　100 分

(3) 9　7　6　2

六、1. 2.4+3.3=5.7（吨）

8.5−5.7=2.8（吨）

答：这堆煤两次一共用去 5.7 吨，还剩 2.8 吨。

2. 1.5 米>1.3 米>1.2 米>1.1 米

3. 7.6+2.1=9.7（千米）

7.6+9.7=17.3（千米）

答：这条路长 17.3 千米。

4. 5.4−1.5=3.9（元）

1.5+1.5=3（元）

3+5.4=8.4（元）　8.4<10

答：一袋味精比一袋盐贵 3.9 元，带 10 元钱够。

5. (1) 7.8−5.9=1.9（元）

答：一本《快乐作文》比一本《童话书》便宜 1.9 元。

关注微信公众号“教辅资料站”获取更多学习资料

（2）7.8+5.9=13.7（元）

13.7<20

答：两种书各买一本，20元够。

附加题： 0.1+0.2+0.3+0.4+0.5+0.6+0.7+0.8+0.9

=（0.1+0.9）+（0.2+0.8）+（0.3+0.7）+（0.4+0.6）+0.5

=1+1+1+1+0.5

=4.5

期末复习冲刺卷

模块过关卷（一） 数与代数 统计

一、1. 闰 91

2. $\frac{3}{10}$ 0.3 $\frac{8}{10}$ 0.8

3. 2

4. 800

5. 0.7 1.3 2.5

6. 16 40

7. 25千米>5200米>5千米>4千米800米>500米

8. 756

9. 应找回的钱数=付出的钱数-用了的钱数

400-22×14=92（元）

10. 2 【点拨】8÷4=2（枚）。

11. 五

二、1. × 2. × 3. × 4. × 5. ×

三、1. B 2. C 3. B 4. B

四、1. 350 1000 300 1.5 0.1

$\frac{4}{5}$ $\frac{3}{10}$ $\frac{2}{3}$

2. 49×83=4067

49	验算：	83	
×83		×49	
147		747	
392		332	
4067		4067	

4.5+2.3=6.8

4.5
+2.3
6.8

8.4-7.5=0.9

8.4
−7.5
0.9

30×27=810

27
×30
810

3. 72−9×7 350÷7×5

=72−63 =50×5

=9 =250

（480−80）÷8

=400÷8

=50

五、1. 6×20×12=1440（朵）

答：20个小组一共做了1440朵纸花。

2. 102÷（11−8）=34（千克）

答：平均每小时挖34千克。

3. 42÷7×5=30（吨）

42−30+24=36（吨）

答：现在有36吨煤。

4. $\frac{2}{9}+\frac{5}{9}=\frac{7}{9}$

36÷9×7=28（件）

答：一共卖出了28件。

5.（1）5.3−3.5=1.8（元）

答：直尺的价钱是1.8元。

（2）3.5−1.8=1.7（元）

答：直尺比三角尺便宜1.7元。

6.（1）

码数	30	32	34	35	36	37
人数	1	3	6	7	5	2

（2）6 37 30 35

附加题： 6×24=144（本）

144÷3÷3=16（本）

答：平均每层放16本书。

期末复习冲刺卷

模块过关卷（二） 图形与几何

一、1. 40

2. 80 64 3. 50

4. 平方分米 米 平方米 米 平方米

5. 4 【点拨】1×1=1（平方米）1平方米=100平方分米 5×5=25（平方分米） 100÷25=4（块）

6. 49

7. 500 12 40 4 2000 800

8. > > < = < >

9. 8 16 【点拨】周长增加4个2厘米，面积增加25−9=16（平方厘米）。

二、1. × 2. × 3. × 4. × 5. √

三、1. B 2. C 3. C B 4. B 5. C A

四、1. 周长：（5+2）×2=14（dm）

面积：5×2=10（dm^2）

周长：4×3=12（m）

面积：3×3=9（m^2）

2. 14 cm 12 cm^2 170 cm 400 cm^2

24 cm 36 cm^2

五、



【点拨】长方形画法不唯一。

六、1. 42×20×3=2520（千克）

答：这块水稻试验田一共施肥2520千克。

2. 24÷3=8（米）

8×8=64（平方米）

答：这个正方形鸡舍的面积是64平方米。

【点拨】一面靠墙少算一个边长，三个边长的和是24米，一条边长是8米。

3. 240÷4=60（米）

60×60=3600（平方米）

答：鱼池的面积是3600平方米。

4. 12×9=108（平方米）

108平方米=10800平方分米

3×3=9（平方分米）

10800÷9=1200（块）

答：需要1200块这样的地砖。

5. 6×4=24（张）

24×49=1176（平方厘米）

答：这本书封面的面积是1176平方厘米。

附加题： 18×5=90（平方米）

5+4=9（米）

90÷9=10（米）

18−10=8（米）

答：长应减少8米。

期末复习冲刺卷

仿真模拟卷（一）

一、1. 750 四

2. 千克 平方米 千米

3.（1）0.1 1.1 1.9

（2）0.1 1.1

4. 5 31

5. < < > < > <

6. 256 【点拨】长方形的周长是64厘米，和正方形周长一样，求出正方形的边长是16厘米，进而求出面积。

7. 8×（175−57）=944

8. 15

关注微信公众号“教辅资料站”获取更多学习资料

9. 8　$\frac{8}{24}$　2

10. 够

二、1. ×　2. ×　3. √　4. √　5. ×

三、1. B　2. A　3. A　4. B　5. B

四、1. 800　9.9　1　0　750　1760

2400　11

2. 7.5 + 2.8 = 10.3

$$\begin{array}{r} 7.5 \\ +\ 2.8 \\ \hline 10.3 \end{array}$$

8.4 − 5.9 = 2.5

$$\begin{array}{r} 8.4 \\ -\ 5.9 \\ \hline 2.5 \end{array}$$

68 × 32 = 2176

$$\begin{array}{r} 68 \\ \times\ 32 \\ \hline 136 \\ 204 \\ \hline 2176 \end{array}$$

验算：

$$\begin{array}{r} 32 \\ \times\ 68 \\ \hline 256 \\ 192 \\ \hline 2176 \end{array}$$

76 × 60 = 4560

$$\begin{array}{r} 76 \\ \times\ 60 \\ \hline 4560 \end{array}$$

3. 274 −（76 + 56）
=274 − 132
=142

（848 − 520）÷ 8
=328 ÷ 8
=41

18 ×（250 − 236）
=18 × 14
=252

五、



12　8

六、1. 470 − 35 × 11 = 85（页）

答：还剩 85 页没有看。

2. 40 分米 = 4 米

4 × 4 = 16（平方米）

16 × 8 = 128（千克）

答：这块土地可以收 128 千克粮食。

3. 7.5 + 2.8 = 10.3（千米）

7.5 + 10.3 = 17.8（千米）

答：这条公路一共有 17.8 千米。

4.（1）60 ÷ 3 = 20（米）

60 × 20 = 1200（平方米）

答：这块菜地的面积有 1200 平方米。

（2）1200 ÷ 3 × 2 = 800（平方米）

答：西红柿地有 800 平方米。

5.（1）7　6　3

（2）最高是 97 分，最低是 62 分。

97 − 62 = 35（分）

答：这两个成绩相差 35 分。

附加题：（81 − 3 × 3）÷ 2 = 36（平方米）

36 ÷ 3 = 12（米）

12 × 12 = 144（平方米）

答：原来草坪的面积是 144 平方米。

期末复习冲刺卷

仿真模拟卷（二）

一、1. 7.8

2. 3　1763

3. 12　29

4. 吨　米　克　平方厘米

5.（71 − 8）× 7 = 441

6. 6　3

7. >　=　<　<　>　<

8. 看了的页数　120 − 4 × 24 = 24（页）

9. 7；00　20；00　13

10. 60　22

二、1. √　2. √　3. ×　4. √　5. ×

三、1. C　2. C　3. C　4. C

5. A　【点拨】11 ÷ 4 = 2（个）……3（厘米）

四、1. 800　$\frac{6}{10}$　550　$\frac{2}{7}$　84　0.4　0.8

4000

2. 78 × 49 = 3822

$$\begin{array}{r} 78 \\ \times\ 49 \\ \hline 702 \\ 312 \\ \hline 3822 \end{array}$$

验算：

$$\begin{array}{r} 49 \\ \times\ 78 \\ \hline 392 \\ 343 \\ \hline 3822 \end{array}$$

60 × 54 = 3240

$$\begin{array}{r} 54 \\ \times\ 60 \\ \hline 3240 \end{array}$$

47 × 36 = 1692

$$\begin{array}{r} 47 \\ \times\ 36 \\ \hline 282 \\ 141 \\ \hline 1692 \end{array}$$

验算：

$$\begin{array}{r} 36 \\ \times\ 47 \\ \hline 252 \\ 144 \\ \hline 1692 \end{array}$$

3.9 + 2.7 = 6.6

$$\begin{array}{r} 3.9 \\ +\ 2.7 \\ \hline 6.6 \end{array}$$

3. 95 ÷ 5 + 127
=19 + 127
=146

（708 + 258）÷ 6
=966 ÷ 6
=161

800 − 16 × 9
=800 − 144
=656

18 ×（537 − 448）
=18 × 89
=1602

五、1.

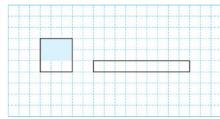

2. 制作月历略　（1）4　（2）22

六、1. 52 × 39 = 2028（元）

2028 > 2000

答：带 2000 元不够。

2. 1 元 8 角 = 1.8 元

2.1 − 1.8 = 0.3（元）

答：笑笑的一个桃子比跳跳的一个桃子便宜 0.3 元。

3. 30 − 20 = 10（厘米）

20 − 10 = 10（厘米）

10 × 10 = 100（平方厘米）

答：这时剩下的图形是正方形，它的面积是 100 平方厘米。

4.（1）8　6　4　2　13　7

（2）成绩最好的是 4 号同学，最差的是 14 号同学。

95 − 48 = 47（分）

答：他们相差 47 分。

（3）20 人　在 85 ~ 100 分的人数最多。

附加题：3.2 − 1.7 = 1.5（千克）

1.5 + 1.5 = 3（千克）

3.2 − 3 = 0.2（千克）

答：苹果重 3 千克，篮子重 0.2 千克。

期末复习冲刺卷

江苏省某名校期末测试卷

一、1. 4　3

2. 千米　千克　吨　平方分米

3. 4000　8000　3.7　10　$\frac{12}{60}$

4. $\frac{1}{4}$　9

5. $\frac{1}{3}$　$\frac{7}{10}$　$\frac{3}{10}$

6. 19 时　下午 2 时

7. 30　50

8.（1）2.1　（2）5.4　4.5

关注微信公众号“教辅资料站”获取更多学习资料

9. 0.3　17.1　不能

二、1. A　2. B　3. C　4. C　5. A

6. C　7. A

三、1. 40　37　4000　7.7　12　30　1　$\frac{3}{5}$

2. 4.8 + 1.7 = 6.5

$$\begin{array}{r} 4.8 \\ +\ 1.7 \\ \hline 6.5 \end{array}$$

72 × 50 = 3600

$$\begin{array}{r} 72 \\ \times\ 50 \\ \hline 3600 \end{array}$$

25 × 38 = 950

$$\begin{array}{r} 25 \\ \times\ 38 \\ \hline 200 \\ 75 \\ \hline 950 \end{array}$$

验算：

$$\begin{array}{r} 38 \\ \times\ 25 \\ \hline 190 \\ 76 \\ \hline 950 \end{array}$$

3. 30+70×8　　200+560÷7

=30+560　　=200+80

=590　　=280

320÷(4×2)

=320÷8

=40

四、1. (1)　(2) $\frac{7}{16}$

2.

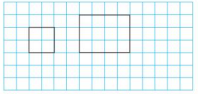

【点拨】长方形画法不唯一。

五、1. 100 − 4 × 5 = 80（千克）

答：这些梨一共有 80 千克。

2. 40 × 15 × 8 = 4800（棵）

答：这个大棚一共可以栽 4800 棵茄子苗。

3. $\frac{2}{8}+\frac{3}{8}=\frac{5}{8}$

64 ÷ 8 × 5 = 40（页）

答：两天一共看了 40 页。

4. (1) 18 ÷ 3 = 6（米）

6 × 6 = 36（平方米）

答：这块菜地的面积是 36 平方米。

(2) 36 ÷ 3 = 12（平方米）

36 − 12 = 24（平方米）

答：番茄和黄瓜的种植面积分别是 12 平方米、24 平方米。

5. 26.2 − 7.6 − 3.8 = 14.8（米）

答：还剩 14.8 米。

期末复习冲刺卷

山西省某名校期末测试卷

一、1. 140　120　70　1600　4800　4000

300　1.2　1000　0　600　$\frac{1}{7}$

2. 32 × 21 = 672

$$\begin{array}{r} 32 \\ \times\ 21 \\ \hline 32 \\ 64 \\ \hline 672 \end{array}$$

48 × 63 = 3024

$$\begin{array}{r} 48 \\ \times\ 63 \\ \hline 144 \\ 288 \\ \hline 3024 \end{array}$$

验算：

$$\begin{array}{r} 63 \\ \times\ 48 \\ \hline 504 \\ 252 \\ \hline 3024 \end{array}$$

50 × 36 = 1800

$$\begin{array}{r} 36 \\ \times\ 50 \\ \hline 1800 \end{array}$$

11.5 − 5.6 = 5.9

$$\begin{array}{r} 11.5 \\ -\ 5.6 \\ \hline 5.9 \end{array}$$

3. 96−48÷8　　35×13+45

=96−6　　=455+45

=90　　=500

18×(437−381)

=18×56

=1008

二、1. 千米　吨　厘米　分米　平方分米

2. 9　10　30　三

3. 500　3　0.7

4. 1800

5. 7　8

6. <　>　>　<

7. 50　1

8. $\frac{3}{5}$　$\frac{3}{10}$　$\frac{9}{10}$

9. (1) 2.1　1.4

(2) $\frac{1}{162}$　$\frac{1}{486}$

10. 6 × (7 − 3)

11. 40

12. 5　【点拨】差倍问题，妈妈 6 份，小红 1 份，相差 5 份，25 ÷ 5 = 5（岁）。

三、1. C　2. C　3. A　A　4. C　5. B

四、1. (1) 20　18

(2)

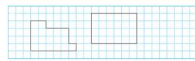

24　【点拨】(2) 题答案不唯一。

2. (1) 11　19

(2) 三　(2)　三　(1)

五、1. 38 × 62 = 2356（元）

2356 < 2500

答：钱够。

2. 2 × 4 × 365 = 2920（千克）

答：可以节约 2920 千克水，大约是 3 吨。

3. 下午 5 时 = 17 时

250 × (17 − 9) = 2000（本）

答：一天一共借出 2000 本图书。

4. 4 × 7 × 4 = 112（平方厘米）

答：这张长方形纸的面积是 112 平方厘米。

【点拨】把图形补完整，求出一共有多少个小正方形。

5. 2.6 + 4.5 = 7.1（元）

1.9 + 3.5 = 5.4（元）

答：买一把牙刷和一支牙膏最多花 7.1 元，最少花 5.4 元。

六、1. $\frac{1}{16}$　0.8

2. 1 + 3 = 4（份）

60 ÷ 4 = 15（个）

3 − 1 = 2（份）

2 × 15 = 30（个）

答：小红比小强多写了 30 个大字。

关注微信公众号“教辅资料站”获取更多学习资料

好卷

小卷

- 周测培优卷（12套）
- 专项复习卷（5套）
- 满分压轴卷（2套）



三年级 数学

下（SJ版）

关注微信公众号“教辅资料站”获取更多学习资料



目录

周测培优卷

两位数乘两位数的口算、估算及笔算 …… 1

乘数末尾有0的乘法及用两步连乘解决实际问题 …… 3

千米和吨的认识 …… 5

从问题出发分析和解决实际问题 …… 7

两步计算的混合运算(含认识小括号)及应用 …… 9

年、月、日的认识及24时记时法 …… 11

求简单的经过时间 …… 13

面积含义和面积单位的认识 …… 15

长方形和正方形的面积计算和单位间的进率 …… 17

认识一个整体的几分之一及几分之几 …… 19

小数的初步认识、比较大小及简单的加减法 …… 21

简单数据的汇总、排序及分组 …… 23

专项复习卷

两位数乘两位数的笔算和两步混合运算 …… 25

年、月、日和千米、吨 …… 27

分数、小数的初步认识 …… 29

长方形和正方形的面积 …… 31

解决实际问题的策略和统计 …… 33

满分压轴卷

常考易错突破卷(一) …… 35

常考易错突破卷(二) …… 37

参考答案及点拨 …… 39

关注微信公众号“教辅资料站”获取更多学习资料

周测培优卷 1
两位数乘两位数的口算、估算及笔算

班级_____ 姓名_____ 得分_____ 时间：40分钟 满分：100分

一、填空。（每空1分，共28分）

1. 估算 19 × 21 时，把 19 看作（　　），把 21 看作（　　），（　　）×（　　）=（　　），所以 19 × 21 ≈（　　）。
2. 计算 50 × 70 时，先算（　　）×（　　），再在积的末尾添上（　　）个0。
3. 最大的两位数与最小的两位数的积是（　　）。
4. 39 × 42 的积是（　　）位数，41 × 19的积是（　　）位数。
5. 25 × 38 的积的最高位在（　　）位上，15 的44 倍是（　　）。
6. 王师傅平均每小时做 18 个零件，那么工作 14 小时做了多少个零件？在括号里填上合适的数。

```
    1 8
×   1 4
-------
    7 2 …… 工作（　）小时，做（　）个零件
  1 8   …… 工作（　）小时，做（　）个零件
-------
  2 5 2 …… 工作（　）小时，做（　）个零件
```

7. 在◯里填上“ > ”“ < ”或“ = ”。

32 × 45 ◯ 23 × 54

39 × 19 ◯ 800

56 × 14 ◯ 28 × 14

25 × 25 ◯ 25 × 5 × 5

51 × 41 ◯ 2000

48 × 61 ◯ 3000

8. 要使□2 × 21 的积是三位数，□里可以填（　　）；若它的积是四位数，□里最小填（　　）。

二、选择。（将正确答案的字母填在括号里。每题1分，共4分）

1. 如果□是○的 15 倍，下面算式正确的是（　　）。

A. ○ ÷ 15 = □　B. ○ × 15 = □

C. 15 ÷ □ = ○

2. 一架飞机每分飞行 21 千米，每时大约飞行（　　）千米。

A. 210　B. 1200　C. 1800

3. 两位数乘两位数的积最大是（　　）。

A. 8100　B. 9900

C. 9801

4. 一张作文纸有 28 行，每行有 22 个格子，这张作文纸一共有（　　）个格子。

A. 616　B. 600　C. 626

三、计算。（共28分）

1. 直接写得数。（每题1分，共6分）

50 × 50 =　　80 × 30 =

60 × 30 =　　21 × 10 =

10 × 500 =　　20 × 40 =

关注微信公众号“教辅资料站”获取更多学习资料

2. 估算小能手。(每题 1 分，共 6 分)

$21 \times 30 \approx$　　$72 \times 9 \approx$

$53 \times 68 \approx$　　$38 \times 18 \approx$

$18 \times 92 \approx$　　$89 \times 12 \approx$

3. 用竖式计算。(每题 3 分，共 12 分)

$32 \times 13 =$　　$27 \times 56 =$

$43 \times 58 =$　　$25 \times 17 =$

4. 下面的计算对吗？把不对的改正过来。(每题 2 分，共 4 分)

```
   28          48
 ×  24       × 65
-------     -------
  112         240
 416         288
-------     -------
 4272 (  )   528 (  )
```

四、解决问题。(共 40 分)

1. 小王每天可加工 35 个零件，他今年 3 月份共可加工多少个零件？(12 分)

2. 学校想组织 684 名同学去看电影，电影院共有 25 排座位，每排有 28 个座位，这些学生能看同一场电影吗？(13 分)

3. 估一估，算一算。

		
每分钟大约飞行 28 米	每分钟大约飞行 32 米	每分钟大约飞行 31 米

(1) 蜜蜂 30 分钟大约飞行多少米？(5 分)

(2) 蜻蜓 38 分钟大约飞行多少米？(5 分)

(3) 小鸟 1 小时大约飞行多少米？(5 分)

关注微信公众号“教辅资料站”获取更多学习资料

周测培优卷 2
乘数末尾有0的乘法及用两步连乘解决实际问题

班级_____ 姓名_____ 得分_____ 时间：40分钟 满分：100分

一、填空。（每空2分，共30分）

1. 27的30倍是（　　），16个30的和是（　　）。
2. 与39相邻的两个两位数的积是（　　），20×69的积是（　　）位数。
3. 34×50的积的末尾有（　　）个0，最高位在（　　）位。
4. 小芳每分钟打18个字，照这样的速度，10、15、20、25分钟各打多少个字？填入下表。

时间/分钟	1	10	15	20	25
字数	18				

5. 学校运来60桶纯净水，每桶水重19千克，这些水一共重（　　）千克。
6. 买下面三种球各需要多少钱？把表格补充完整。

球	每个的钱数	个数	总钱数
	45	20	
	35	20	
	30	15	

7. 一个小区有36幢楼，每幢有6层，每层有8户人家，该小区一共有（　　）户人家。

二、判断。（对的在括号里打“√”，错的打“×”。每题1分，共5分）

1. 84×50的积的末尾只有1个0。（　　）
2. 两个乘数的末尾都没有0，乘得的积的末尾就没有0。（　　）
3. 24×6×5的积与24×30的积相等。（　　）
4. 52×20的积的最高位是千位，最高位上是5。（　　）
5. 如果甲×10＝乙×12，那么甲＞乙。（　　）

三、计算。（共14分）

1. 直接写得数。（每题0.5分，共6分）

40×50＝　　72×10＝
15×20＝　　30×32＝
12×40＝　　10×60＝
80×40＝　　220×3＝
44×20＝　　70×13＝
24×20＝　　30×90＝

2. 用竖式计算。（每题2分，共8分）

78×40＝　　75×42＝

48×30＝　　34×26＝

关注微信公众号“教辅资料站”获取更多学习资料

四、解决问题。（共 51 分）

1. 全校 30 个班一起回收旧电池，平均每个班回收了 22 节旧电池，一共回收了多少节旧电池？（7 分）

2. 每筒羽毛球有 12 个，每个羽毛球 2 元。



（1）这些羽毛球一共有多少个？（4 分）

（2）买这些羽毛球一共要多少钱？（4 分）

3. 这头大象的体重是多少千克？（7 分）



4. 学校图书角有 4 个书架，每个书架有 5 层，每层有 40 本图书。图书角一共有多少本图书？（7 分）

5. 一个正方形池塘，边长 25 米，王叔叔每天早晨绕池塘的边走 18 圈，一共走了多少米？（7 分）

6. 35 只青蛙 2 天能捉多少只害虫？（7 分）



7. 小明计划 20 天看完一本书，平均每天看 37 页，你知道他第 17 天从第几页开始看吗？（8 分）

关注微信公众号“教辅资料站”获取更多学习资料

千米和吨的认识

班级_____ 姓名_____ 得分_____ 时间：40分钟 满分：100分

一、填空。（第9题每小题3分，其余每空1分，共34分）

1. 千米、米、分米、厘米、毫米都是（　　）单位，吨、千克、克都是（　　）单位。
2. 50千克的80倍是（　　）吨，2吨是400千克的（　　）倍。
3. 一桶油重200千克，（　　）桶这样的油重1吨。
4. 1袋水泥重50千克，10袋这样的水泥重（　　）千克，（　　）袋这样的水泥重1吨。
5. 在○里填上“>”“<”或“=”。

   3000米○4千米

   7千米○6500米

   4000米○4千米

   5000千克○5吨

   3500千克○4吨

   8吨○8001千克

   9388 m○10 km
6. 小明骑自行车每分钟行驶250米，他8分钟能行驶（　　）米，是（　　）千米。
7. 4吨 = （　　）千克

   6000米 = （　　）千米

   3千米 = （　　）米

   7000千克 = （　　）吨

   10米 = （　　）厘米

   9000克 = （　　）千克
8. 在括号里填上合适的单位名称。

   一艘轮船载重是45（　　）。

   轮船每小时行驶30（　　）。

   两头奶牛大约重1（　　）。

   一头狮子重200（　　）。

   世界上最长的运河是京杭大运河，全长1794（　　）。

   南京长江大桥长约6772（　　）。
9. 按从小到大的顺序排列。

（1）4千米　5005米　4050米　4500分米　5千米

_____

（2）8200千克　4吨230千克　8千克　8吨

_____

二、判断。（对的在括号里打“√”，错的打“×”。每题2分，共10分）

1. 杭州到北京的公路长约1360米。（　　）
2. 一架飞机重15吨。（　　）
3. 3吨铁比3吨棉花重。（　　）
4. 长跑比赛中，每个同学要跑3000千米。（　　）
5. 一辆载重5吨的卡车，装了60台重85千克的机器，没有超载。（　　）

关注微信公众号“教辅资料站”获取更多学习资料

三、选择。（将正确答案的字母填在括号里。每题2分，共8分）

1. 一个饭店一天用水500（　　），一个月用水15（　　）。

A. 克　　B. 千克　　C. 吨

2. 国际学校运动场跑道长400米，跑5圈一共跑了（　　）千米。

A. 2　　B. 80　　C. 2000

3. 马老师体重85千克，大约（　　）个马老师重1吨。

A. 2　　B. 12　　C. 20

4. 长城长约7000（　　），马老师开车从家到学校行驶7000（　　）。

A. cm　　B. m　　C. km

四、把每小时行的路程和合适的出行方式用线连接起来。（8分）

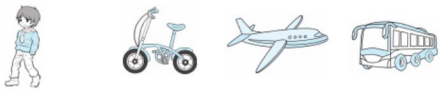

800千米　60千米　4千米　15千米

五、解决问题。（共40分）

1. 商店原来有3吨大米，又运来4200千克，计划9天卖完，平均每天要卖多少千克？（7分）

2. 现有1吨食用油，如果全部用桶装，一共可以装多少桶？（7分）



净重：5千克

3. 一列火车以每小时95千米的速度行驶13小时，一共行驶了多少千米？（8分）

4. 浩浩家与学校相距500米，他每天上学要走两个来回，浩浩每天要走多少千米？（9分）

5. 一个工程队第一天修路350米，第二天比第一天多修300米。这个工程队两天共修路多少米？合多少千米？（9分）

关注微信公众号“教辅资料站”获取更多学习资料

周测培优卷 4
从问题出发分析和解决实际问题

班级_____ 姓名_____ 得分_____ 时间：40分钟 满分：100分

一、填空。（每空 2 分，共 30 分）

1. 冬冬今年 7 岁，爷爷的岁数是他的 9 倍，爷爷今年（　　）岁，爷爷比冬冬大（　　）岁。
2. 小白兔拔了 34 个萝卜，小黑兔比小白兔少拔 8 个，两只小兔一共拔了（　　）个萝卜。
3. 一个工人每天加工 24 个零件，12 个工人 3 天能加工（　　）个零件。
4. 妈妈买丝巾用去 36 元，又买了 3 只发卡，每只 18 元，妈妈一共用去了（　　）元。
5. 超市运来 3 箱鲜橙汁，每箱 12 瓶，每瓶 8 元，可以列式计算总价：（　　），结果是（　　）元。
6. 国际学校小报告厅有 20 排座位，每排有 26 个座位，三年级共有 406 名学生参加活动，还剩多少个座位？

   还剩的座位数 = （　　）－（　　），（　　）是已经知道的，（　　）是未知的，所以要先算出（　　），列式是（　　），再算出（　　），列式是（　　）。

二、选择。（将正确答案的字母填在括号里。每题 2 分，共 6 分）

1. 平均每个同学体重 25 千克，（　　）个同学重 1 吨。

   A. 40　　B. 4　　C. 400

2. 一个排球 42 元，一个足球的价格是一个排球的 3 倍，买一个足球和一个排球一共要（　　）元。

   A. 45　　B. 168　　C. 126

3. 计算小能手学习小组有 6 个人，他们约定每人每天做 8 道计算题，10 天一共可以做多少道计算题？列式正确的是（　　）。

   A. 8×10　　B. 8×6

   C. $8\times6\times10$

三、先根据问题补充条件，再解答。（每题 6 分，共 12 分）

1. 明明的身高是 125 厘米，_____，成成比红红高 12 厘米，成成的身高是多少厘米？

2. 同学们植了 3 行杨树，_____，又植了 24 棵柳树。植的杨树比柳树少几棵？

关注微信公众号“教辅资料站”获取更多学习资料

四、看图列式计算。（每题4分，共16分）

1.

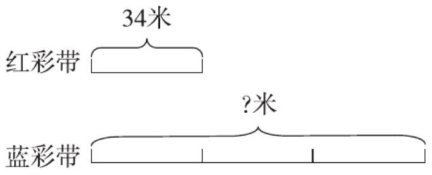

2.

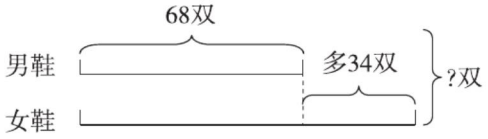

3.

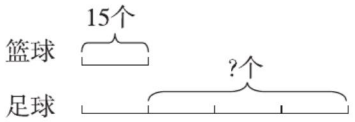

4.

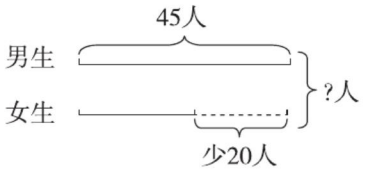

五、解决问题。（共36分）

1. 现在树林里有24只小鸟，已经飞走的只数是剩下的2倍，原来树林里有多少只小鸟？（8分）

2. 跳绳的有多少人？（9分）

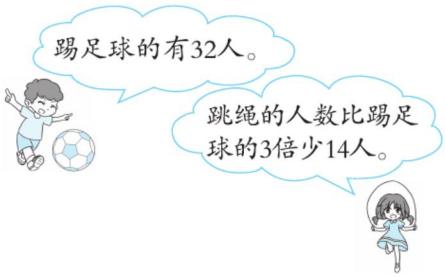

3. 花园新村新建了5幢大楼，每幢有3个单元，每个单元可以住18户。花园新村一共可以住多少户？（9分）

4.



（1）李阿姨买1顶帽子和60双袜子，一共要花多少元？（5分）

（2）周阿姨买12个书包，付出500元，应找回多少元？（5分）

关注微信公众号“教辅资料站”获取更多学习资料

周测培优卷 5
两步计算的混合运算（含认识小括号）及应用

班级_____ 姓名_____ 得分_____ 时间：40分钟 满分：100分

一、填空。（7题6分，其余每空2分，共32分）

1. 在没有括号的算式里，有乘除法和加减法，应先算（　　）法，后算（　　）法。
2. 68与12的和再乘40，计算的结果是（　　）。
3. 一本笔记本6元，王老师买了12本奖励给同学们，带了100元，应该找回（　　）元。
4. 把35＋15＝50，50×40＝2000合并成综合算式是（　　）。
5. 给算式75－25×2加上小括号，先算减法再算乘法，可以写成(　　)。
6. 在◯里填上“＞”“＜”或“＝”。

   90÷9＋1 ◯ 90÷(9＋1)

   770－(530－230) ◯ 770－(530＋230)

   540÷3÷2 ◯ 540÷(3×2)

   180＋90÷5 ◯ (180＋90)÷5
7. 先在框里填上合适的数，再写出综合算式。

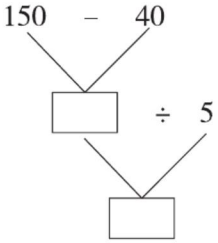

综合算式：_____

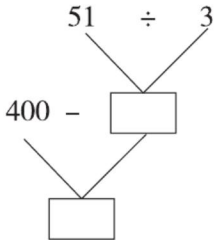

综合算式：_____

8. 小闯在计算“80＋△×5”时，先算加法，再算乘法，得到的结果是460。正确的结果是(　　)。
9. 文艺组有56名同学，英语组比文艺组的3倍少5人，英语组有(　　)人，英语组比文艺组多(　　)人。

二、选择。（将正确答案的字母填在括号里。每题2分，共8分）

1. 要表示“600减去36的差除以4，商是多少”，正确的列式是（　　）。

   A. (600－36)÷4

   B. 600－36÷4

   C. 600÷4－36
2. 下面的算式中，最后一步算乘法的是（　　）。

   A. 162÷(2×3)

   B. 38＋12×6

   C. (290－186)×25
3. 下面算式中（　　）的小括号去掉后，计算结果并不改变。

   A. 16×(16＋4)

   B. 80－(46－15)

   C. 15×(25÷5)

关注微信公众号“教辅资料站”获取更多学习资料

4. 如果□ + □ + □ = 24，□ × ☆ = 40，则☆ = （　　）。

A. 8　　B. 5　　C. 4

三、计算。（共 30 分）

1. 下面每题先算什么，用横线表示出来。（每题 1 分，共 6 分）

72 − 4 × 15　　27 × 3 + 20

56 ÷ 8 × 20　　24 + 36 ÷ 6

360 ÷ (12 ÷ 2)　　(80 − 30) × 4

2. 脱式计算。（每题 3 分，共 18 分）

540 − (397 − 254)　　445 ÷ 5 × 6

26 × (59 − 20)　　(500 − 50) ÷ 5

380 − 113 × 3　　180 + 25 × 18

3. 算“24 点”。（每题 2 分，共 6 分）

（1）7　4　2　8

（2）3　4　2　6

（3）1　1　1　8

四、解决问题。（共 30 分）

1. 小林读一本 156 页的故事书，第一天读了 36 页，剩下的要 3 天读完，剩下的平均每天要读多少页？（8 分）

2. 新华村农家书屋里有故事书 139 本，科技书的本数比故事书多 201 本。农家书屋里的科技书和故事书一共有多少本？（8 分）

3. 小林从家经过学校走到小芳家共用了 9 分钟。

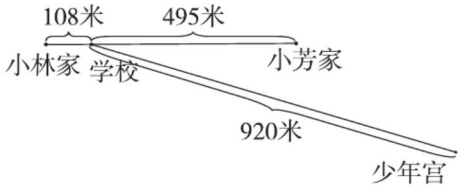

（1）小林平均每分钟走多少米？（7 分）

（2）用同样的速度，小林 12 分钟能从学校走到少年宫吗？（7 分）

关注微信公众号“教辅资料站”获取更多学习资料

周测培优卷 6

年、月、日的认识及24时记时法

班级_____ 姓名_____ 得分_____ 时间：40分钟 满分：100分

一、填空。（每空1分，共33分）

1. 闰年二月有（　　）天，闰年第一季度有（　　）天，闰年全年有（　　）天。
2. 六一儿童节在第（　　）季度，这个月共有（　　）天，是（　　）个星期零（　　）天。
3. 一年中连续的两个大月是（　　）月和（　　）月。
4. 在1900年、1920年、1921年、1996年、2000年、2100年中，（　　）是平年，（　　）是闰年。
5. 通常每4年里有（　　）个平年，（　　）个闰年。
6. 用24时记时法表示下面的时刻。
   上午9：00（　　）
   下午3：20（　　）
   中午12：00（　　）
   早上6：10（　　）
   晚上8：00（　　）
   晚上11：30（　　）
7. 用普通记时法表示下面的时刻。
   7：00（　　）
   14：30（　　）
   11：00（　　）
   18：40（　　）
   22：00（　　）
   9：15（　　）
8. 爸爸连续出差离家62天正好是2个月，这两个月是（　　）月和（　　）月或者（　　）月和（　　）月。
9. 中央电视台一套首播的新闻联播节目，开播时间是晚上（　　），结束时间是晚上（　　），用24时记时法表示是（　　）开始，（　　）结束。

二、判断。（对的在括号里打“√”，错的打“×”。每题1分，共5分）

1. 小刚的生日正好是在2月30日。（　　）
2. 平年和闰年下半年的天数是一样多的。（　　）
3. 夜里12时也就是第二天的0时。（　　）
4. 2300年是闰年。（　　）
5. 公历年份数是4的倍数的一定是闰年。（　　）

三、猜一猜。（请根据提示猜出下面每人的生日）（每题2分，共12分）

1. 小明：“我的生日是11月的最后一天。”（　　）
2. 小华：“我的生日是第三季度的第三天。”（　　）
3. 小军：“我的生日跟党的生日是同一天。”（　　）

关注微信公众号“教辅资料站”获取更多学习资料

4. 小亮：“我的生日是一年的倒数第五天。”（　　）

5. 小红：“我四年才过一个生日。”（　　）

6. 小丽：“我的生日是上半年的倒数第2天。”（　　）

四、动手做一做。（13分）

2019年9月8日是星期日，你能根据此信息制作一个9月份的月历吗？

根据此月历，我知道了：9月有（　　）天，9月一共有（　　）个星期零（　　）天，9月18日是星期（　　）。8月30日是星期（　　），2019年的劳动节是星期（　　）。

五、解决问题。（共37分）

1. 小明每天写16个大字，照这样计算，小明10月份从25日到月尾，一共写了多少个大字？（7分）

2. 闰年的2月有几个星期零几天？（7分）

3. 照这样计算，玲玲4月份一共做了多少道口算题？（7分）



玲玲

4. 明明家平均每个季度交水费35元，每个月交电话费28元。明明家一年交水费和电话费一共要多少元？（8分）

5. 2022年第24届冬季奥林匹克运动会在北京举办，这一年是平年还是闰年？全年有多少天？（8分）

关注微信公众号“教辅资料站”获取更多学习资料

周测培优卷 7

求简单的经过时间

班级_____ 姓名_____ 得分_____ 时间：40分钟 满分：100分

一、填空。（每空2分，共34分）

1. 小明做作业的时间是17：00到19：00，他是从下午（　　）时开始，晚上（　　）时完成作业，一共用去（　　）小时。
2. 朝九晚五工作是指每天上午9时上班，下午5时下班。照这样计算，每天上班到下午下班一共经过（　　）小时。
3. 一节课40分钟，上午第一节课8时10分上课，（　　）时（　　）分下课。下午第一节课1时50分上课，下午（　　）时（　　）分下课。
4. 小玲每天8：00到校，中午11：00放学，下午1：00到校，下午4：00放学，小玲在学校的时间是（　　）小时。
5. 一辆汽车平均每小时行驶100千米，从上午9时到下午1时，一共行驶了（　　）千米。
6. 邮递员每天从邮箱取3次信，上午8时30分第一次取信，以后每隔4小时30分取一次信，用24时记时法表示3次取信的时间为（　　）、（　　）、（　　）。妈妈要寄一封信，她最迟在下午（　　）时（　　）分之前投信，才能赶上邮递员当天取走信。
7. 爸爸上午8时上班，工作8小时，中午休息1小时，到（　　）下班。
8. 小红晚上9时睡觉，早上7时起床，她一共睡了（　　）小时。

二、判断。（对的在括号里打“√”，错的打“×”。每题2分，共8分）

1. 下午5时，就是15时。（　　）
2. 从上午8：00到晚上8：00，共经过了12小时。（　　）
3. 周爷爷10分钟能写15个毛笔字，他1小时能写150个毛笔字。（　　）
4. 小朋友每天在校时间为6小时，可记作6：00。（　　）

三、选择。（将正确答案的字母填在括号里。每题2分，共8分）

1. 下面表示经过时间的是（　　）。
   A. 上午10时出发
   B. 午睡1小时
   C. 下午6：30
2. 王达晚上7时到20时30分做作业，做作业一共用去（　　）。
   A. 1小时30分　B. 13时30分
   C. 1小时
3. 超市的营业时间是上午7：30到晚上9：00，超市一天的营业时间是（　　）。
   A. 12小时　B. 14小时30分
   C. 13小时30分

关注微信公众号“教辅资料站”获取更多学习资料

4. 一列火车从上午7：00出发，从南京开往上海用了5小时，则到上海的时间是（　　）。

A. 11：00

B. 12：00

C. 13：00

四、根据表格完成下面各题。（6分）

第一节课	8：10～8：50
做操、大课间活动	8：50～9：10
第二节课	9：10～9：50
课间活动（含眼保健操5分钟）	9：50～10：05
第三节课	10：05～10：45

（1）永红小学第一节课的时间是（　　）分钟。

（2）做操、大课间活动的时间是（　　）分钟。

（3）第二节课与第三节课之间的课间活动时间是（　　）分钟。

五、解决问题。（共44分）

1. 从上午8时到下午4时，图书馆共借出320本书，平均每小时借出多少本书？（11分）

2. 小星6：35从家出发，6：40到校，平均每分钟走62米。小星家离学校有多少米？（11分）

3. 火车上午9时从上海出发，行驶10小时到达泰山，到达泰山时是几时？（11分）

4. 算出各饭店的营业时间。

咏梅大排档	九里香饭店
17：30～次日2：30	10：30－14：30 18：30－21：00

哪家营业时间长？（11分）

关注微信公众号“教辅资料站”获取更多学习资料

周测培优卷 8
面积含义和面积单位的认识

班级_____ 姓名_____ 得分_____ 时间：40分钟 满分：100分

一、填空。（每空 2 分，共 34 分）

1. 物体表面或平面图形的大小，叫作它们的（　　）。
2. 在括号里填上适当的单位名称。
一张邮票的面积约为 4（　　）。
我们学校操场的面积约是 6000（　　）。
教室的门大约高 200（　　），面积大约是 200（　　）。
小明家到学校的路程是 500（　　）。
房间地面的面积是 24（　　）。
课桌面的面积大约是 24（　　）。
一幢楼房高 18（　　），占地 630（　　）。
3. 手掌和桌面相比，（　　）的面积比较大。
4. 测量橡皮表面的面积用（　　）作单位比较合适，测量防盗门表面的面积用（　　）作单位比较合适。
5. 边长为 1 厘米的正方形的面积是（　　），边长为（　　）分米的正方形的面积是 1 平方分米。
6. 下面图形中每个小正方形的面积是 1 平方厘米，你能求出它们的面积和周长吗？



面积：（　　）
周长：（　　）

二、判断。（对的在括号里打“√”，错的打“×”。每题 2 分，共 8 分）

1. 1 米的长度要比 1 平方米的面积小很多。（　　）
2. 一块黑板的面积大约是 6 平方分米。（　　）
3. 小红家客厅大约有 6 平方分米。（　　）
4. 我们教室的面积大约有 60 平方米。（　　）

三、选择。（将正确答案的字母填在括号里。每题 2 分，共 10 分）

1. 1 块手帕的面积约为 4（　　）。
A. 平方分米
B. 平方米
C. 平方厘米
2. 测量身高用（　　）作单位，测量操场的面积用（　　）作单位。
A. 平方厘米　　B. 厘米
C. 平方米
3. 老师用 5 块边长为 1 米的正方形木板拼成一个长方形的大木板，大木板的面积是（　　）。
A. 5 米
B. 5 平方米
C. 10 平方米
4. 1 平方米大约可以容纳（　　）个小朋友。
A. 5　　B. 13　　C. 30

关注微信公众号“教辅资料站”获取更多学习资料

5. 下面长方形中阴影部分和空白部分的（　　）。

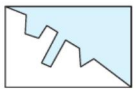

A. 周长相等，面积不相等

B. 面积相等，周长不相等

C. 面积和周长都相等

四、操作题。（共 48 分）

1. 下面方格纸上每一小格的面积是 1 平方厘米，画两个面积是 16 平方厘米但形状不同的图形。（6 分）

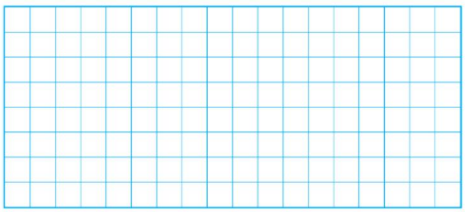

2. 写出下面各图形的面积。（每一小格的面积是 1 平方厘米）（6 分）

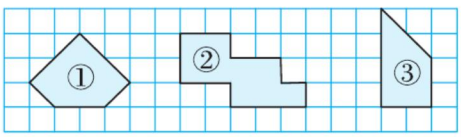

图①的面积是（　　）平方厘米。

图②的面积是（　　）平方厘米。

图③的面积是（　　）平方厘米。

3. 下面图形中的空白部分的面积分别是多少？（每一小格的面积是 1 平方厘米）（10 分）

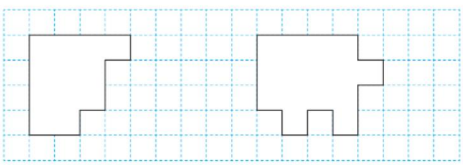

4. 在下面六个图形中，给面积最大的涂上绿色，最小的涂上红色。（10 分）

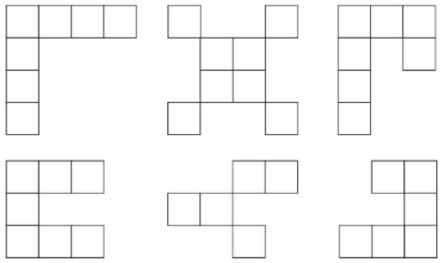

5. 求下面图形的周长和面积。（每个小方格的面积是 1 平方厘米）（8 分）

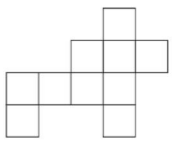



6. 下面这个图形是由面积为 4 平方厘米的小方格拼成的。你知道这个图形的面积是多少吗？（8 分）

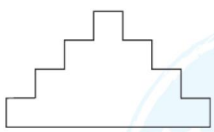

□ 4平方厘米

关注微信公众号“教辅资料站”获取更多学习资料

周测培优卷 9
长方形和正方形的面积计算和单位间的进率

班级_____ 姓名_____ 得分_____ 时间：40分钟 满分：100分

一、填空。（每空2分，共36分）

1. 在括号里填上合适的数。
   4平方米 = （　　）平方分米
   7分米 = （　　）厘米
   3500平方厘米 = （　　）平方分米
   9000平方分米 = （　　）平方米
   700平方分米 = （　　）平方米
   = （　　）平方厘米
2. 一张长方形的纸长是8厘米，宽是5厘米，面积是（　　）。
3. 一块长方形玻璃的长是4米，比宽多1米，这块长方形玻璃的面积是（　　）平方米，也就是（　　）平方分米。
4. 一个长方形的面积是42平方分米，长是7分米，宽是（　　）。
5. 一个正方形的周长是12厘米，它的面积是（　　）平方厘米。
6. 用（　　）个1平方厘米的正方形可以拼成1个1平方分米的大正方形。1个1平方米的正方形可以剪成（　　）个1平方分米的正方形。
7. 张丽用6个边长为1厘米的正方形拼成一个长方形，拼出长方形的面积是（　　），周长是（　　）或（　　）。
8. 李华把一块边长为6分米的正方形玻璃割成大小相等的两块长方形玻璃，每块长方形玻璃的面积是（　　）平方分米，周长是（　　）分米。

二、判断。（对的在括号里打“√”，错的打“×”。每题2分，共6分）

1. 用4个边长为1厘米的小正方形拼成一个大正方形或长方形，它们的面积相等。（　　）
2. 一个正方形的边长扩大到原来的2倍，那么面积也扩大到原来的2倍。（　　）
3. 相邻两个面积单位之间的进率是10。（　　）

三、选择。（将正确答案的字母填在括号里。每题3分，共9分）

1. 一个长方形的长是8分米，宽是5厘米，它的面积是（　　）。
   A. 40平方分米
   B. 40平方厘米
   C. 400平方厘米
2. 至少用（　　）个同样的小正方形可以拼成一个较大的正方形。
   A. 4　　B. 8　　C. 9
3. 一张长方形铁皮的长是6分米，宽是4分米，从这张长方形铁皮上剪下一个最大的正方形，这个正方形的面积是（　　）。
   A. 24平方分米
   B. 16平方分米
   C. 36平方分米

关注微信公众号“教辅资料站”获取更多学习资料

四、先测量相关数据，再求出每个图形的面积。（每题 4 分，共 8 分）





五、解决问题。（共 41 分）

1. 在一块长方形地里王大爷种了 3 种蔬菜（如图）。

（1）种青菜的面积是多少平方米？（4 分）

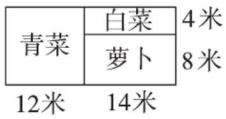

（2）种白菜的面积是多少平方米？（4 分）

（3）请再提出一个数学问题并解答。（4 分）

2. 一个长方形长 30 分米，比宽多 5 分米，这个长方形的面积是多少？（9 分）

3. 一个长方形桃园长 30 米，宽 18 米，如果每棵桃树占地 3 平方米。这个桃园一共能栽多少棵桃树？（10 分）

4. 小区前面有一块边长为 50 米的正方形空地，现要在空地的中间开辟一个长 32 米、宽 28 米的长方形花圃，其余部分植上草皮。

（1）花圃的面积是多少平方米？（5 分）

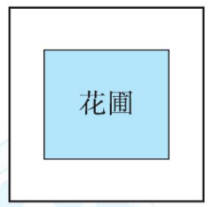

（2）草皮的面积是多少平方米？（5 分）

关注微信公众号“教辅资料站”获取更多学习资料

周测培优卷 10
认识一个整体的几分之一及几分之几

班级_____ 姓名_____ 得分_____ 时间：40分钟 满分：100分

一、填空。（每空2分，共36分）

1. 用分数表示每个图里的涂色部分。

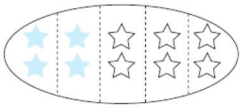

（　　）

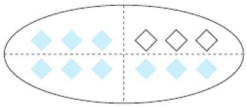

（　　）

2. 小明有4块巧克力，吃了2块，吃了的是原来总数的$\frac{(\quad)}{(\quad)}$。

3. 10个苹果，平均分成5份，取其中的3份，用分数表示就是$\frac{(\quad)}{(\quad)}$，其中3份是（　　）个苹果。

4. 4分米是1米的$\frac{(\quad)}{(\quad)}$；6厘米是100厘米的$\frac{(\quad)}{(\quad)}$。

5. 69支钢笔的$\frac{1}{3}$是（　　）支。

24小时的$\frac{3}{4}$是（　　）小时。

6. 有60盆月季花，平均分到4个班，每个班分到这些花的$\frac{(\quad)}{(\quad)}$，每个班分到（　　）盆花。

7. 在◯里填上“>”“<”或“=”。

3分米◯$\frac{3}{10}$米

7分米◯$\frac{8}{10}$米

5角◯$\frac{1}{2}$元

3角◯$\frac{5}{10}$元

8. 小芳做幸运星，做了6个红色的，3个蓝色的，还有1个绿色的。红色幸运星占总数的$\frac{(\quad)}{(\quad)}$，蓝色幸运星占总数的$\frac{(\quad)}{(\quad)}$，绿色幸运星占总数的$\frac{(\quad)}{(\quad)}$。

二、判断。（对的在括号里打“√”，错的打“×”。每题1分，共5分）

1. 把一篮苹果分成6份，每份占这篮苹果的$\frac{1}{6}$。（　　）

2. 1里面有10个$\frac{1}{10}$。（　　）

3. 把一条线段分成相等的7段，其中的4段是它的$\frac{4}{7}$。（　　）

4. 12的$\frac{1}{3}$和15的$\frac{1}{3}$相等。（　　）

5. 4角是$\frac{4}{10}$元。（　　）

三、口算。（每题1分，共10分）

$\frac{2}{3}-\frac{2}{3}=$　　$\frac{1}{10}+\frac{9}{10}=$

$\frac{5}{6}-\frac{2}{6}=$　　$\frac{4}{15}+\frac{3}{15}=$

关注微信公众号“教辅资料站”获取更多学习资料

$\frac{15}{16}-\frac{3}{16}=$　　$\frac{3}{7}+\frac{2}{7}=$

$\frac{1}{4}+\frac{1}{4}=$　　$\frac{2}{5}+\frac{1}{5}=$

$\frac{7}{10}-\frac{3}{10}=$　　$\frac{1}{8}+\frac{3}{8}=$

四、分一分，涂一涂，填一填。

（每题 4 分，共 8 分）

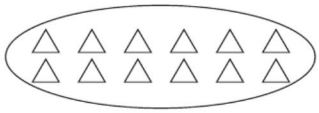

这些△的$\frac{1}{6}$是（　　）个。

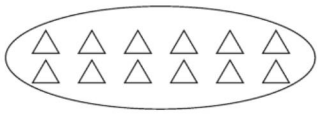

这些△的$\frac{2}{3}$是（　　）个。

五、看图填一填。（每题 3 分，共 6 分）

1. 下图中苹果的$\frac{1}{2}$是几个？



（　　）÷（　　）=（　　）（个）

2. 下图中花的$\frac{1}{4}$是几朵？



（　　）÷（　　）=（　　）（朵）

六、解决问题。（共 35 分）

1. 老师有 20 张星星卡，小华获得了星星卡的$\frac{1}{5}$，小丽获得了星星卡的$\frac{1}{2}$，他们分别获得了几张星星卡？（8 分）

2. 冬冬看一本《童话故事》，第一天看了$\frac{2}{8}$，第二天看了$\frac{3}{8}$。

（1）前两天共看了多少页？（3 分）



240页

（2）还剩多少页没看？（3 分）

（3）第三天应该从多少页开始看？（3 分）

3. 一盘草莓 30 个，小红已经吃了$\frac{1}{3}$，还剩多少个？（8 分）

4. 她们看的页数相同吗？（请把条件补充完整再解答）（10 分）



关注微信公众号“教辅资料站”获取更多学习资料

周测培优卷 11
小数的初步认识、比较大小及简单的加减法

班级_____ 姓名_____ 得分_____ 时间：40分钟 满分：100分

一、填空。（每空1分，共24分）

1. 把1米看成一个整体，把它平均分成10份，其中的1份用小数表示是（　　）米。
2. 2.7读作（　　），整数部分是（　　），小数部分是(　　)。
3. 读出或写出下面横线上的小数。
（1）一个布娃娃8.5元。读作（　　）。
（2）小娟家距离和平广场大约有0.8千米。读作(　　)。
（3）高林在学校举行的秋季运动会中，跳远成绩为一点五米。写作(　　)。
（4）第28届雅典奥运会上，中国选手朱启南在10米气步枪比赛中创造了七百零二点七环的世界纪录。写作(　　)。
4. 1里面有（　　）个0.1，0.8里面有（　　）个0.1。
5. 在括号里填上合适的小数。
7分米＝（　　）米
9元1角＝（　　）元
8角＝（　　）元
6米3分米＝（　　）米
6厘米＝（　　）分米
5厘米3毫米＝（　　）厘米
6. 比6.2少0.9的数是（　　），比6.2多0.9的数是（　　）。
7. 这些小数在哪两个相邻的整数之间？
（　　）<13.4<（　　）
（　　）>10.6>（　　）
8. 明明跑60米用了10.5秒，磊磊跑60米用了9.6秒，（　　）跑得快。
9. 一支中性笔的价格是1.5元，一支钢笔比一支中性笔贵6.9元，一支钢笔的价格是（　　）元。

二、判断。（对的在括号里打“√”，错的打“×”。每题2分，共10分）

1. 所有的小数都比整数小。（　　）
2. 7个0.1就是0.7。（　　）
3. 小数和整数一样，计算加、减法时要把相同数位对齐。（　　）
4. 用9、6、7这3个数组成一个最小的一位小数是76.9。（　　）
5. 在10.0、1.2、3.5、0.9这四个数中，0.9最大。（　　）

三、选择。（将正确答案的字母填在括号里。每题2分，共10分）

1. 把4分米5厘米写成用“分米”作单位的小数是（　　）分米。
A. 4.5　　B. 0.4　　C. 0.5
2. 按照下面这组数的排列规律，括号里应该填的数是（　　）。
0.2、0.5、0.8、（　　）、1.4、1.7
A. 0.9　　B. 1.1　　C. 1.3

关注微信公众号“教辅资料站”获取更多学习资料

3. 图（　　）的涂色部分可以用0.3表示。

A. 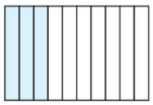　B. 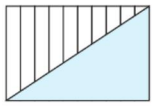

C. 

4. 一支圆珠笔的价格是4.6元，买2支需支付（　　）元。

A. 8.2　　B. 6.6　　C. 9.2

5. 一个加数增加0.4，另一个加数也增加0.4，它们的和（　　）。

A. 不变

B. 增加0.4

C. 增加0.8

四、用竖式计算。（每题3分，共12分）

7 − 2.8 =　　6.5 − 2.7 =

3.8 + 6.9 =　　4.8 + 0.6 =

五、解决问题。（共44分）

1. 前楼中心小学的同学利用周日时间采集树种，第一周采集了2.8千克，第二周采集的比第一周少0.3千克，两周一共采集了多少千克？（10分）

2. 一根绳子长14.5米，第一次用去7.6米，第二次用去3.8米。绳子比原来短了多少米？（11分）

3. 某天早上的气温是6.5℃，中午的气温比早上升高了3.1℃，晚上的气温比中午降低了4.5℃，这天晚上的气温是多少？（11分）

4. 王强买来10米长的铁丝，修鸡笼用去3.6米，做手工艺品用去2.2米。

（1）修鸡笼和做手工艺品一共用去多少米？（4分）

（2）铁丝还剩下多少米？合多少分米？（4分）

（3）剩下的铁丝围成一个长1.1米、宽0.9米的长方形，够不够？（4分）

关注微信公众号“教辅资料站”获取更多学习资料

周测培优卷 12
简单数据的汇总、排序及分组

班级_____ 姓名_____ 得分_____ 时间：40分钟 满分：100分

一、填空。（共50分）

1. 气象小组把6月份的天气进行了如下记录：（每空2分，共14分）

晴天 雨天 阴天

1	2	3	4	5	6	7	8	9	10
11	12	13	14	15	16	17	18	19	20
21	22	23	24	25	26	27	28	29	30

（1）把晴天、雨天、阴天的天数分别填在下面的统计表中。

天气名称	晴天	雨天	阴天
天数			

（2）从上表中可以看出：这个月中（　　）的天数最多，（　　）的天数最少。

（3）这个月中晴天比雨天多（　　）天。

（4）这个月中阴天比雨天多（　　）天。

2. 下面是某校三（1）班各学生参加户外活动收集矿泉水瓶个数情况，请按要求分段整理数据，并回答问题。（每空2分，共20分）

52 45 48 32 33 29 41 48
45 46 44 24 38 39 37 44
41 45 49 53 33 36 43 46

收集个数	21～30	31～40	41～50	51～60
人数				

（1）这个班收集矿泉水瓶个数在（　　）的人数最多，是（　　）。

（2）这个班收集数量最多的是（　　）个。

（3）这个班收集数量最少的是（　　）个。

（4）这个班（　　）段和（　　）段收集人数相同。

3. 下面分别是小明在下午1：00～2：00和3：00～4：00统计经过某一路段的车型表。

种类	客车	货车	面包车	小轿车
辆数	35	15	16	26

种类	客车	货车	面包车	小轿车
辆数	20	15	35	40

（1）请你将这两段时间内的车辆统计表合并汇总。（8分）

种类	客车	货车	面包车	小轿车
辆数				

根据汇总表回答问题：

（2）（　　）车的数量最多，（　　）车的数量最少，相差（　　）辆。（6分）

（3）经过这一路段的一共有（　　）辆车。（2分）

关注微信公众号“教辅资料站”获取更多学习资料

二、按要求做题。（共 50 分）

1. 小华收集了自己班女生 1 分钟跳绳的成绩。

序号	成绩/个	序号	成绩/个	序号	成绩/个	序号	成绩/个
1	72	5	88	9	55	13	76
2	85	6	95	10	76	14	104
3	45	7	100	11	36	15	101
4	16	8	98	12	87	16	99

（1）整理上表中的数据。（6 分）

成绩	50 个以下	50 ~ 84 个	84 个以上
人数			

（2）这个班女生 1 分钟跳绳的最好成绩是多少？最差的成绩呢？这两个成绩相差多少？（6 分）

（3）成绩在 85 个或 85 个以上为优秀，50 个以下为不及格，有多少人的成绩达到优秀？有多少人不及格？（7 分）

2. 下面是小明所在班一部分学生上学所用的时间，根据要求回答问题。

序号	时间/分	序号	时间/分	序号	时间/分	序号	时间/分
1	16	5	50	9	8	13	33
2	22	6	42	10	19	14	45
3	28	7	38	11	32	15	12
4	31	8	53	12	27	16	36

（1）将上表中的数据整理后填写到下表中：（6 分）

时间	20 分以下	20 ~ 40 分	40 分以上
人数			

（2）小明上学用 19 分钟，统计的人中有多少人上学途中用的时间比他多？有多少人用的时间比他少？（10 分）

3. 六年级同学参加金钥匙竞赛，成绩如下：（单位：分）

编号	成绩	编号	成绩	编号	成绩	编号	成绩
1	100	11	93	21	80	31	79
2	92	12	81	22	88	32	89
3	91	13	97	23	79	33	98
4	97	14	88	24	97	34	89
5	90	15	84	25	95	35	89
6	96	16	100	26	96	36	89
7	87	17	83	27	99	37	90
8	90	18	96	28	94	38	90
9	90	19	85	29	93	39	78
10	86	20	82	30	93	40	75

（1）根据上面数据，填写统计表。（6 分）

成绩/分	90 ~ 100	80 ~ 89	70 ~ 79
人数			

（2）如果特等奖是 3 人，一等奖是 7 人，二等奖是 12 人，请你把分数段填在括号中。（9 分）

特等奖（　　）分

一等奖（　　）分

二等奖（　　）分

关注微信公众号“教辅资料站”获取更多学习资料

专项复习卷 1 两位数乘两位数的笔算和两步混合运算

班级_____ 姓名_____ 得分_____ 时间：40分钟 满分：100分

一、填空。（每空1分，共17分）

1. 80的50倍是（　　）。（　　）是30的60倍。
2. 73×18的积的个位是（　　），20×55的末尾有（　　）个0。
3. 49×28的积是（　　）位数，大约是（　　）。
4. 在52+80×7这道算式中，要先算（　　）法，再算（　　）法。
5. 把12×5=60，78−60=18写成综合算式是（　　）。
6. 45×□2，要使积是四位数，□里最小填（　　）。
7. 一本课外书共270页，小丽看了11天，每天看18页，还剩（　　）页没有看，第三天应该从第（　　）页开始看。
8. 在○里填上“>”“<”或“=”。

   80×40÷4 ○ 80×(40÷4)

   130−(80−20) ○ 130−80−20

   48÷(2×4) ○ 48÷2÷4

   69×20 ○ 20×69
9. 一个水果店上午售出42千克苹果，下午售出54千克苹果，每千克苹果售价为6元，这些苹果一共卖了（　　）元。

二、选择。（将正确答案的字母填在括号里。每题2分，共10分）

1. 800−800×0的正确结果是（　　）。

   A. 0　　B. 1　　C. 800
2. 李师傅3小时可加工12箱零件，照这样计算，加工360箱零件需要多少小时？列式错误的是（　　）。

   A. 360÷(12÷3)

   B. 360÷12÷3

   C. 360÷12×3
3. 200÷4−2和200÷(4−2)的得数相比，（　　）。

   A. 一样大

   B. 200÷4−2的大

   C. 200÷(4−2)的大
4. 68×20与680×2的结果相比较，（　　）。

   A. 68×20的积大

   B. 680×2的积大

   C. 一样大
5. 不用计算，估计59×32的积最接近（　　）。

   A. 1800　　B. 1500　　C. 180

三、计算。（共28分）

1. 直接写得数。（每题1分，共8分）

   17×40=　　30×60=

   30×90=　　180÷5=

   64×10=　　280−80÷4=

   4×7÷2=　　800÷5=

关注微信公众号“教辅资料站”获取更多学习资料

2. 用竖式计算。（每题 2 分，共 8 分）

$22 \times 24 =$　　$20 \times 36 =$

$78 \times 32 =$　　$21 \times 14 =$

3. 脱式计算。（每题 3 分，共 12 分）

$420 - 21 \times 16$　　$27 + 16 \times 15$

$35 \times (28 + 21)$　　$25 \times (28 \div 4)$

四、按要求加括号。（每题 2 分，共 8 分）

1. 先算加法后算减法。

   720　－　82　＋　122

2. 先算乘法后算除法。

   225　÷　5　×　9

3. 先算加法后算乘法。

   36　＋　64　×　18

4. 先算减法后算除法。

   100　－　4　÷　4

五、解决问题。（共 37 分）

1. 4 个小组的同学摘苹果，每个小组 13 人。平均每人摘了 25 千克。一共摘了多少千克？（7 分）

2. 水果店有 3000 千克西瓜，每天卖出 92 千克，卖了 20 天后还剩多少千克？（7 分）

3. 一种钢笔每盒 6 支，批发价每盒 72 元，零售价是每支 18 元。按批发价购买这种钢笔，每盒便宜多少元？（7 分）

4.  

每件 58 元　　每条 32 元

买 15 套这样的衣服一共要多少元？（8 分）

5. 月季花有 35 枝，郁金香的枝数是月季花的 12 倍，月季花和郁金香一共有多少枝？（8 分）

关注微信公众号“教辅资料站”获取更多学习资料

专项复习卷2 年、月、日和千米、吨

班级_____ 姓名_____ 得分_____ 时间：40分钟 满分：100分

一、填空。（每空1分，共30分）

1. 在括号里填上合适的单位名称。
一筐橘子重25（　　）。
一车沙子重3（　　）。
南京和淮安相距约180（　　）。
学校操场周长是360（　　）。
张叔叔骑摩托车每小时行60（　　）。

2. 1.2吨＝（　　）千克
7千米＝（　　）米
600分米＝（　　）米
3小时＝（　　）分钟
5000千克＝（　　）吨
（　　）吨＝3000千克
730米＋270米＝（　　）千米
1吨－1千克＝（　　）千克

3. 用普通记时法表示下面的时刻。
7时（　　）
15时（　　）
20时45分（　　）
24时（　　）

4. 一袋面粉重20千克，（　　）袋这样的面粉重1吨。

5. 跑道每圈400米，2圈是（　　）米。小华跑5圈跑了（　　）千米。

6. 小娟买了一张电影票，放映开始时间是14：20，也就是下午（　　）时（　　）分。如果电影放映1小时25分钟，这场电影（　　）时（　　）分结束。

7. 八一建军节在第（　　）季度，国庆节在第（　　）季度。

8. 希望小学的老师每天上午8时到校工作，中午休息1小时，下午5时离开学校，老师每天在校工作（　　）小时。

9. 2019年的二月份有（　　）天，上半年一共有（　　）天。

10. 小明7、8两月每天做3道提高题，这两个月一共做了（　　）道提高题。

二、选择。（将正确答案的字母填在括号里。每题2分，共10分）

1. 下面月份中，（　　）不是小月。
A. 4月　　B. 5月　　C. 6月

2. 小力是1992年2月29日出生的，他到2019年3月1日一共过了（　　）个生日。
A. 5　　B. 6　　C. 7

3. 5千米比5000千克（　　）。
A. 多　　B. 少
C. 无法比较

4. 某座桥的载质量为60（　　）。
A. 米　　B. 吨　　C. 千克

5. 小兰家1个月节约用水500千克，（　　）个月可节约5吨水。
A. 1　　B. 10　　C. 100

关注微信公众号“教辅资料站”获取更多学习资料

三、排列顺序。（共 16 分）

1. 按从小到大的顺序排列。（8 分）

2800 米、5 千米、568 米、4 千米 300 米

（　　）＜（　　）＜（　　）＜（　　）

2. 按从大到小的顺序排列。（8 分）

3 吨、600 克、5 千克、2 吨 23 千克

（　　）＞（　　）＞（　　）＞（　　）

四、解决问题。（共 44 分）

1. 一列火车行 240 千米需 2 小时。照这样的速度，从 A 城到 B 城需行驶 6 小时，求 A、B 两城之间的铁路线全长。（8 分）

2. 工人叔叔把 6 台机器装在载质量 5 吨的卡车上，每台机器重 750 千克，这些机器的质量超过这辆卡车的载质量了吗？（8 分）

3. 一只大熊猫每天吃 25 千克竹子，7 月份动物园一共需要为它准备多少千克竹子？（8 分）

4. 一列火车 19：30 从甲地出发，第二天 8：30 到达乙地，这列火车一共行驶了多长时间？（10 分）

5. 小雷全家周六、周日开车去泰山旅游，上午 8：00 出发，下午 1：00 正好到达，小雷爸爸开车平均每小时行 80 千米，你知道小雷家离泰山有多远吗？（10 分）

关注微信公众号“教辅资料站”获取更多学习资料

专项复习卷 3 分数、小数的初步认识

班级_____ 姓名_____ 得分_____ 时间：40分钟 满分：100分

一、填空。（每空1分，共26分）

1. 6分米是1米的$\frac{(\quad)}{(\quad)}$，是$\frac{(\quad)}{(\quad)}$米，用小数表示可以写成（　　）米，这个小数读作（　　）。

2. 把20个桃平均分成4份，每份是这些桃的$\frac{(\quad)}{(\quad)}$，其中的3份是（　　）个。

3. 8.5的整数部分是（　　），小数部分是（　　）。

4. 1分的$\frac{1}{6}$是（　　）秒。

   1小时的$\frac{3}{4}$是（　　）分。

5. 在（　　）里填上合适的小数。

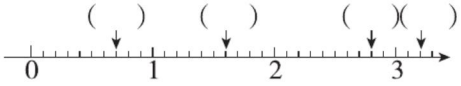

6. 在○里填上“>”“<”或“=”。

   7.9 ○ 8　　27分米 ○ 2.7米

   7厘米 ○ $\frac{7}{10}$分米

   3分米 ○ $\frac{3}{10}$米

   7分米 ○ $\frac{8}{10}$米

   5角 ○ $\frac{1}{2}$元

7. 有16个桃子，吃了$\frac{6}{8}$，吃了（　　）个，还剩（　　）个。

8. 在□里填上适当的数。

   6.7<6.□　　5.□+3.6>8.6

   □.3<4.3　　8.9−□.9<2.9

二、判断。（对的在括号里打“√”，错的打“×”。每题1分，共5分）

1. 3元比1.9元少。（　　）

2. 4分米、0.4米和$\frac{4}{10}$米一样长。（　　）

3. 0.8米就是把1米平均分成8份。（　　）

4. 把一张饼分给3个人吃，每个人吃了这张饼的$\frac{1}{3}$。（　　）

5. 8块糖的$\frac{3}{4}$是6块糖。（　　）

三、选择。（将正确答案的字母填在括号里。每题2分，共10分）

1. 下面算式的得数比1小的是（　　）。

   A. 3.5−2.4　　B. 0.3+2.4

   C. 8.4−7.5

2. 三家超市同一种酸奶的价格分别是13.8元，12.8元，13.3元。最便宜的价格是（　　）。

   A. 13.8元　　B. 12.8元

   C. 13.3元

3. 与$\frac{7}{10}$元相等的是（　　）。

   A. 7分　　B. 7角

   C. 7元

关注微信公众号“教辅资料站”获取更多学习资料

4. 学校进行100米短跑比赛，三名同学成绩分别是：明明16.7秒，华华15.2秒，军军16.9秒，跑第一名的是（　　）。

A. 明明　　B. 华华

C. 军军

5. 把一个重6千克的西瓜平均分给4个同学吃，每个同学吃了这个西瓜的（　　）。

A. $\frac{1}{6}$　　B. $\frac{1}{4}$　　C. $\frac{4}{6}$

四、计算。（共22分）

1. 直接写得数。（每题1分，共10分）

$\frac{1}{7}+\frac{5}{7}=$　　$\frac{4}{5}-\frac{1}{5}=$

$\frac{4}{9}+\frac{3}{9}=$　　$\frac{4}{8}-\frac{3}{8}=$

$\frac{1}{7}+\frac{6}{7}=$　　$0.5+0.3=$

$1-0.1=$　　$0.9-0.2=$

$3.3-0.3=$　　$0.9-0.3=$

2. 用竖式计算。（每题2分，共12分）

$0.7+0.1=$　　$4.8+1.4=$

$2.7+1.5=$　　$4.7+2.5=$

$2.9-0.4=$　　$8.6-0.8=$

五、解决问题。（共37分）

1. 买1千克苹果需5.2元，买1千克梨需2.4元，这两种水果各买1千克共需多少元？买1千克苹果比买1千克梨多付多少元？（9分）

2. 一箱苹果30个，小明吃了这箱苹果的$\frac{1}{2}$，爸爸吃了这箱苹果的$\frac{1}{6}$，妈妈吃了这箱苹果的$\frac{1}{3}$。谁吃得最多？（9分）

3. 工地上有一堆煤重5.8吨，第一次运走2.1吨，第二次运走2.7吨。

（1）两次一共运走多少吨煤？（5分）

（2）还剩多少吨煤没有运走？（5分）

4. 工人在明明家长8米、宽6米的长方形客厅地面上铺地砖，已经铺好了$\frac{5}{6}$，已经铺了多少平方米？（9分）

关注微信公众号“教辅资料站”获取更多学习资料

专项复习卷 4 长方形和正方形的面积

班级_____ 姓名_____ 得分_____ 时间：40分钟 满分：100分

一、填空。（每空1分，共24分）

1. 数学课本封面的大小叫作数学课本封面的（　　），围成课本封面的四条边的总长叫作数学课本封面的（　　）。

2. 8平方分米 =（　　）平方厘米
2300平方分米 =（　　）平方米
20平方米 =（　　）平方厘米
8000平方厘米 =（　　）平方分米

3. 在括号里填上合适的单位名称。
课桌面面积约为35（　　）。
一个信封面的面积大约是2（　　）。
一块正方形手帕的边长是2（　　），面积是4（　　）。
一块黑板的面积是4（　　）。
一张贺卡的面积约为200（　　）。

4. 一块铁皮长4米，宽3米，它的面积是（　　）平方米，合（　　）平方分米。

5. 用边长1厘米的正方形拼成图形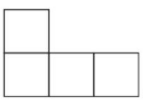，它的周长是（　　），面积是（　　）。

6. 长方形长8厘米，宽5厘米，如果宽增加（　　）厘米就成了一个正方形，这个正方形的面积比原来长方形的面积多（　　）平方厘米。

7. 将8个边长是1厘米的正方形排成一排，它的长是（　　）厘米，宽是（　　）厘米，面积是(　　)平方厘米，排成两排，它的长是（　　）厘米，宽是(　　)厘米，面积是（　　）平方厘米。

二、判断。（对的在括号里打“√”，错的打“×”。每题2分，共10分）

1. 一本语文书的厚度为4平方厘米。（　　）

2. 一个正方形的边长增加2厘米，面积就增加2平方厘米。（　　）

3. 面积单位之间的进率都是100。（　　）

4. 72平方米 =7200平方分米（　　）

5. 边长3分米的方砖和边长30厘米的方砖面积相等。（　　）

三、选择。（将正确答案的字母填在括号里。每题2分，共10分）

1. 用一根长20米的铁丝围成一个最大的正方形，这个正方形的面积是（　　）。
A. 25米　　B. 20平方米
C. 25平方米

2. 下面是面积单位的是（　　）。
A. 克　　B. 分米
C. 平方分米

关注微信公众号“教辅资料站”获取更多学习资料

3. 一只小狗围着正方形的花圃跑一圈，跑了 40 米，这个花圃占地面积是（　　）。

A. 40 平方米　　B. 100 米

C. 100 平方米

4. 有三块铁皮，面积分别是 90 平方分米、99 平方分米和 900 平方厘米，（　　）的铁皮的面积最接近 1 平方米。

A. 90 平方分米

B. 99 平方分米

C. 900 平方厘米

5. 用一根长 20 厘米的线，围一个长方形，正确的说法是（　　）。

A. 长 5 厘米，宽 4 厘米

B. 可能长 8 厘米，宽 2 厘米

C. 面积一定是 16 平方厘米

四、算出每个图形的周长和面积，填在下表里。（每空 2 分，共 12 分）

图形	边长	周长	面积
长方形	长 24 米，宽 18 米		
长方形	长 19 分米，宽 12 分米		
正方形	35 厘米		

五、作图题。（共 8 分）

下面每个小方格表示 1 平方厘米。



（1）请你在这张方格纸上画出一个面积是 6 平方厘米的长方形；再画一个面积为 25 平方厘米的正方形。（6 分）

（2）估计图中心形的面积是（　　）平方厘米。（2 分）

六、解决问题。（共 36 分）

1. 计算下面图形的周长和面积。（9 分）

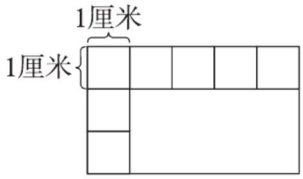

2. 一块长方形的菜地，长 36 米，比宽长 12 米，这块菜地的面积是多少？（9 分）

3. 一块正方形菜地边长为 20 米，它的一半种了黄瓜，其余种西红柿。西红柿占地多少平方米？（9 分）

4. 一块正方形的菜地，边长是 20 米。给这块菜地四周围上篱笆，篱笆有多长？这块菜地有多大面积？（9 分）

关注微信公众号“教辅资料站”获取更多学习资料

专项复习卷 5 解决实际问题的策略和统计

班级_____ 姓名_____ 得分_____ 时间：40分钟 满分：100分

一、填空。(每空 2 分，共 24 分)

1. 数学模板里面有 30 个△，而□是△的 6 倍，△和□一共有多少个？应先求（　　）的个数。
2. 李老师为布置教室买了 30 条红丝带，绿丝带是红丝带的 8 倍，请问绿丝带有多少条？应列式为(　　)。
3. 实验小学三年级有 4 个班，每个班有 54 人，四年级有 265 人，三、四年级共有（　　）人。
4. 汽车每小时行驶 80 千米，火车 3 小时行驶 360 千米。火车每小时比汽车快（　　）千米。
5. 服装店购进 4 件上衣，每件进价 65 元，售价 98 元，这 4 件上衣全部卖出后能赚（　　）元。
6. 学校布置礼堂用了 120 个气球，其中黄、蓝、紫、白气球各有 18 个，其余的是红气球，用了（　　）个红气球。
7. 停车场有面包车 28 辆，小轿车的辆数是面包车的 3 倍，停车场里的面包车和小轿车一共有多少辆？根据问题我们可以想到下面的数量关系：一共的辆数 = （　　）+（　　），（　　）已经知道，可以先算（　　），列式是（　　），再算出一共有多少辆，列式是（　　）。

二、选择。(将正确答案的字母填在括号里。每题 2 分，共 8 分)

1. 一只青蛙一天吃 42 只害虫，一只青蛙一周吃多少只害虫？列式正确的是（　　）。

   A. 42×7　　B. 42×5

   C. 42×1

2. 一只蜗牛一天爬行 18 米，这只蜗牛一周爬行多少米？以下算式正确的是（　　）。

   A. $18+1$　　B. 18×2

   C. 18×7

3. 小红有 30 张邮票，小明的邮票张数是小红的 3 倍，小玉的邮票张数是小红的 5 倍。根据这些已知条件可知画线段图时需要把（　　）的邮票张数作为一倍的量先画。

   A. 小红　　B. 小明

   C. 小玉

4. 一本笔记本 3 元，一支钢笔 8 元，小明打算买 5 本笔记本和 3 支钢笔，请问小明一共要花多少钱？以下数量关系式与问题相符的是（　　）。

   A. 笔记本单价 ×5 本笔记本

   B. 钢笔单价 ×3 支钢笔

   C. 5 本笔记本价钱 +3 支钢笔价钱

关注微信公众号“教辅资料站”获取更多学习资料

三、根据下面的信息回答问题。

（共 14 分）



（1）填写下表。（6 分）

喜欢吃的水果			
人数			

（2）喜欢吃（　　）的人数最多，喜欢吃（　　）的人数最少。（4 分）

（3）喜欢吃苹果的同学比喜欢吃梨的同学多（　　）人。（2 分）

（4）喜欢吃梨的同学和喜欢吃香蕉的同学共有（　　）人。（2 分）

四、解决问题。（共 54 分）

1. 希望小学开展社团兴趣活动，其中绘画组有 20 人，羽毛球社团的人数是绘画组人数的 3 倍，绘画组与羽毛球社团共有多少人？（9 分）

2. 小松鼠们一共采了 72 个松果，已经装好了 27 个。剩下的每 5 个装一盒，可以装多少盒？（9 分）

3.



8元　　15元　　6元

（1）买 3 支钢笔和 1 个文具盒，应付多少元？（9 分）

（2）王明买了 8 本笔记本，付 100 元，应找回多少元？（9 分）

4. 操场上有一些同学在活动。



是踢足球人数的3倍　　比踢足球的多15人　　踢足球的有18人

（1）打篮球的比踢足球的多多少人？（9 分）

（2）跳绳的和踢足球的一共有多少人？（9 分）

关注微信公众号“教辅资料站”获取更多学习资料

满分压轴卷 1 常考易错突破卷（一）

班级_____ 姓名_____ 得分_____ 时间：40分钟 满分：100分

一、填空。（每空1分，共28分）

1. 一盒积木42元，阳光幼儿园买了26盒，一共花了多少钱？请你根据下面的算式填空。

```
  4 2
× 2 6
-------
  2 5 2…（  ）盒积木用了（  ）元
  8 4  …（  ）盒积木用了（  ）元
-------
1 0 9 2…（  ）盒积木用了（  ）元
```

2. 李叔叔骑自行车上班，中午回家吃饭。每分钟行250米，他4分钟骑到家，一共行驶（　　）千米；他每天上下班一共要行（　　）千米。

3. 小月的生日是第四季度的第一天，他的生日是（　　）月（　　）日，那一天是（　　）节。

4. 把21－18＝3，36÷3＝12合并成综合算式是（　　）。

5. 一架飞机上午9时从北京起飞，飞行了4小时20分，下午（　　）时（　　）分到达海口。

6. 3块砖重5千克，（　　）块重500千克，600块砖重（　　）吨。

7. 用8个边长1cm的小正方形拼成不同的长方形，其中周长最长的是（　　）cm，最短的是（　　）cm，面积都是（　　）。

8. 在58×42、72×52、49×61中，积最接近3000的算式是（　　）。

9. 李刚、王红都在看一本120页的书，李刚10天看完，王红8天看完。王红比李刚平均每天多看（　　）页。

10. 小新从学校回家要走1千米路。一天放学后，他从学校出发走了0.3千米后，又回学校拿一本练习本。这次回家比平时多走（　　）千米。

11. 同学们站队，排成8排，每排6人，每排人数是总人数的（　　）。

12. 2018年的5月13日母亲节是星期日，这个月有（　　）天，一共有（　　）个星期零（　　）天。

13. （1）科技馆

开馆时间
8：30～11：30
14：30～17：00

科技馆全天开放时间是（　　）。

（2）开心快餐店

营业时间
5：30～8：00
10：30～14：30
17：30～21：00

开心快餐店全天营业时间是（　　）。

关注微信公众号“教辅资料站”获取更多学习资料

二、判断。（对的在括号里打“√”，错的打“×”。每题2分，共12分）

1. 面积单位比长度单位大。（　　）
2. 在整数乘法算式中，如果乘数末尾有0，积的末尾一定有0。（　　）
3. 一支圆珠笔3.7元，比一支钢笔便宜2.5元。求钢笔的单价应列式为3.7－2.5。（　　）
4. 8人合吃一块饼，每人吃这块饼的$\frac{1}{8}$。（　　）
5. 一堆小棒有16根，拿出这堆小棒的$\frac{5}{8}$，还剩4根。（　　）
6. 32 × 28的得数比600大，比960小。（　　）

三、用竖式计算。（每题3分，共12分）

30×67＝　　8.3－7.6＝

64×46＝　　2.4＋1.5＝

四、解决问题。（共48分）

1. 一个房间长4米，宽3米，如果用边长2分米的正方形地砖铺该房间的地面，一共需要多少块这样的地砖？（12分）

2. 一本故事书有48页，小明前3天看了全书的$\frac{3}{4}$，他第4天应从哪一页看起？（12分）

3. 妈妈买苹果用去9.5元，买香蕉用去的钱比买苹果用去的钱少3.8元，妈妈买水果一共用去多少元？（12分）

4. 小琴看一本书，每天看32页，15天正好看了这本书的一半，剩下的打算8天看完，剩下的平均每天看多少页？（12分）

关注微信公众号“教辅资料站”获取更多学习资料

满分压轴卷 2 常考易错突破卷（二）

班级_____ 姓名_____ 得分_____ 时间：40分钟 满分：100分

一、填空。（每空 2 分，共 44 分）

1. 3□×30 的积是四位数，□里最小填（　　），3□×30 的积是三位数，□里最大填（　　）。

2. 跑道每圈 250 米，李阿姨绕着跑道散步，走了 8 圈，她走了（　　）千米。

3. 用面积 1 平方厘米的正方形测量一个四边形的面积（如右图），这个四边形是（　　）形，面积是（　　）平方厘米。

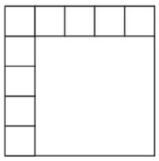

4. 6 千米 =（　　）米
3000 千克 =（　　）吨
5 平方米 =（　　）平方分米
7000 平方厘米 =（　　）平方分米
400 平方分米 =（　　）平方米

5. 8 角 = $\frac{(\quad)}{(\quad)}$ 元，写成小数是（　　）元。
0.9 米 = $\frac{(\quad)}{(\quad)}$ 米，是（　　）分米。

6. 把一根 7 米长的铁丝平均分成 10 段，每段是全长的 $\frac{(\quad)}{(\quad)}$，每段长 $\frac{(\quad)}{(\quad)}$ 米。

7. 一档电视节目从 9：20 开始到 10：00结束，播出时间为（　　）分钟。

8. 下午 6 时用 24 时记时法表示是（　　）。
22 时用普通记时法表示是（　　）。

9. 给学校礼堂走廊铺地砖，地砖是边长为 20 厘米的正方形。礼堂走廊的地面长 16 米，宽 6 米，需要（　　）块地砖。

10. 一列火车的发车时间是 16：30，如果开车前 5 分钟停止检票，要赶上这列火车，最迟应在下午（　　）时（　　）分到达车站的检票口。

二、选择。（将正确答案的字母填在括号里。每题 2 分，共 8 分）

1. 按照下面这组数的排列规律，括号里应该填（　　）。
0.1、0.2、0.4、0.7、（　　）。
A. 1.1　　B. 1.2
C. 1.3

2. 下面不是闰年的是（　　）。
A. 1948 年　　B. 2000 年
C. 2100 年

3. 一个三年级学生的体重大约是 30 千克，（　　）个三年级学生的体重大约是 1 吨。
A. 十几　　B. 三十几
C. 八十几

关注微信公众号“教辅资料站”获取更多学习资料

4. 把正方形纸片沿线剪成两块（如图），它们的（　　）。



A. 周长相等，面积相等

B. 周长相等，面积不相等

C. 周长不相等，面积相等

三、脱式计算。（每题 4 分，共 16 分）

274 − (76 + 38)　　(847 − 280) ÷ 7

480 − 12 × 24　　18 × (210 − 187)

四、操作题。（共 10 分）

1. 下面每个小方格表示边长为 1 厘米的正方形。在方格图中画出两个面积都是 12 平方厘米的不同图形。（4 分）



2. 下图中每个小方格的边长表示 1 厘米。（6 分）

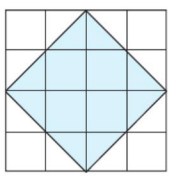

最大的正方形面积是（　　）平方厘米，

涂色部分的面积是（　　）平方厘米，

涂色部分的 $\frac{1}{4}$ 是（　　）平方厘米。

五、解决问题。（共 22 分）

1. 如果把 16 米长的篱笆一面靠墙围成一个长方形菜园。菜园的长是 6 米，菜园的面积是多少平方米？（5 分）

2. 一本故事书共 200 页，小宁看了 2 天后还剩 78 页，小宁平均每天看多少页？（5 分）

3. 李师傅每小时做 178 个零件，一天他从上午 9：20 一直做到下午 2：20，这一天他共做了多少个零件？（6 分）

4. 王师傅一天生产的零件是徒弟一天生产的 4 倍，王师傅一天比徒弟多生产 120 个零件，师徒二人一天各生产多少个零件？（6 分）

关注微信公众号“教辅资料站”获取更多学习资料

荣德基 好卷

参考答案及点拨

三年级 数学 下 SJ版 （小卷）

周测培优卷 1

两位数乘两位数的口算、估算及笔算

一、1. 20　20　20　20　400　400

2. 5　7　2　3. 990

4. 四　三　5. 百　660

6. 4　72　10　180　14　252

7. ＞　＜　＞　＝　＞　＜

8. 4、3、2、1　5

二、1. B　2. B　3. C　4. A

三、1. 2500　2400　1800　210　5000　800

2. 600　720　3500　800　1800　900

3. $32\times13=416$

$$\begin{array}{r} 32 \\ \times\ 13 \\ \hline 96 \\ 32 \\ \hline 416 \end{array}$$

$27\times56=1512$

$$\begin{array}{r} 27 \\ \times\ 56 \\ \hline 162 \\ 135 \\ \hline 1512 \end{array}$$

$43\times58=2494$

$$\begin{array}{r} 43 \\ \times\ 58 \\ \hline 344 \\ 215 \\ \hline 2494 \end{array}$$

$25\times17=425$

$$\begin{array}{r} 25 \\ \times\ 17 \\ \hline 175 \\ 25 \\ \hline 425 \end{array}$$

4.

$$\begin{array}{r} 28 \\ \times\ 24 \\ \hline 112 \\ 56 \\ \hline \times\ 672 \end{array}$$

$$\begin{array}{r} 48 \\ \times\ 65 \\ \hline 240 \\ 288 \\ \hline \times\ 3120 \end{array}$$

四、1. 3月份有31天　$35\times31=1085$（个）

答：他今年3月份共可加工1085个零件。

2. $25\times28=700$（名）$700>684$

答：这些学生能看同一场电影。

3. （1）$30\times28\approx900$（米）

答：蜜蜂30分钟大约飞行900米。

（2）$38\times32\approx1200$（米）

答：蜻蜓38分钟大约飞行1200米。

（3）$31\times60\approx1800$（米）

答：小鸟1小时大约飞行1800米。

周测培优卷 2

乘数末尾有0的乘法及用两步连乘解决实际问题

一、1. 810　480　2. 1520　四

3. 2　千　4. 180　270　360　450

5. 1140　6. 900　700　450　7. 1728

二、1. ×　2. ×　3. √　4. ×　5. ×

三、1. 2000　720　300　960　480　600　3200

660　880　910　480　2700

2. $78\times40=3120$

$$\begin{array}{r} 78 \\ \times\ 40 \\ \hline 3120 \end{array}$$

$75\times42=3150$

$$\begin{array}{r} 75 \\ \times\ 42 \\ \hline 150 \\ 300 \\ \hline 3150 \end{array}$$

$48\times30=1440$

$$\begin{array}{r} 48 \\ \times\ 30 \\ \hline 1440 \end{array}$$

$34\times26=884$

$$\begin{array}{r} 34 \\ \times\ 26 \\ \hline 204 \\ 68 \\ \hline 884 \end{array}$$

四、1. $30\times22=660$（节）

答：一共回收了660节旧电池。

2. （1）$3\times6=18$（筒）

$18\times12=216$（个）

答：这些羽毛球一共有216个。

（2）$216\times2=432$（元）

答：买这些羽毛球一共要432元。

3. $92\times45=4140$（千克）

$4140+120=4260$（千克）

答：这头大象的体重是4260千克。

4. $4\times5\times40=800$（本）

答：图书角一共有800本图书。

5. $25\times4\times18=1800$（米）

答：一共走了1800米。

6. $49\times2\times35=3430$（只）

答：35只青蛙2天能捉3430只害虫。

7. $17-1=16$（天）

$16\times37=592$（页）

$592+1=593$（页）

答：他第17天从第593页开始看。

【点拨】求他第17天从第几页开始看，其实就是先求出前16天看多少页。

关注微信公众号“教辅资料站”获取更多学习资料

周测培优卷 3

千米和吨的认识

一、1. 长度　质量　2. 4　5　3. 5

4. 500　20

5. <　>　=　=　<　<　<

6. 2000　2

7. 4000　6　3000　7　1000　9

8. 吨　千米　吨　千克　千米　米

9. （1）4500 分米 < 4 千米 < 4050 米 < 5 千米 < 5005 米

（2）8 千克 < 4 吨 230 千克 < 8 吨 < 8200 千克

二、1. ×　2. √　3. ×　4. ×

5. ×　【点拨】60 × 85 = 5100（千克）

5100 千克 > 5 吨

三、1. B　C　2. A　3. B　4. C　B

四、

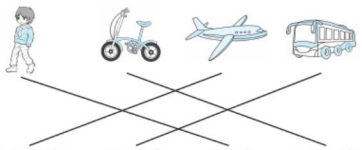

800千米　60千米　4千米　15千米

五、1. 3 吨 = 3000 千克

3000 + 4200 = 7200（千克）

7200 ÷ 9 = 800（千克）

答：平均每天要卖 800 千克。

2. 1 吨 = 1000 千克　1000 ÷ 5 = 200（桶）

答：一共可以装 200 桶。

3. 95 × 13 = 1235（千米）

答：一共行驶了 1235 千米。

4. 500 × 4 = 2000（米）　2000 米 = 2 千米

答：浩浩每天要走 2 千米。

【点拨】两个来回是 4 个 500 米。

5. 350 + 300 = 650（米）

650 + 350 = 1000（米）　1000 米 = 1 千米

答：这个工程队两天共修路 1000 米，合 1 千米。

周测培优卷 4

从问题出发分析和解决实际问题

一、1. 63　56　2. 60　3. 864

4. 90　5. 3 × 12 × 8　288

6. 一共的座位数　已经坐的座位数　已经坐的座位数　一共的座位数　一共的座位数　20 × 26 = 520（个）　还剩的座位数　520 − 406 = 114（个）

二、1. A　2. B　3. C

三、1.（答案不唯一）红红比明明高 3 厘米

125 + 3 + 12 = 140（厘米）

答：成成的身高是 140 厘米。

2.（答案不唯一）　每行 4 棵

24 − 3 × 4 = 12（棵）

答：植的杨树比柳树少 12 棵。

四、1. 34 × 3 = 102（米）

2. 68 + 34 + 68 = 170（双）

3. 15 × 3 = 45（个）

4. 45 − 20 + 45 = 70（人）

五、1. 24 × 2 + 24 = 72（只）

答：原来树林里有 72 只小鸟。

2. 32 × 3 − 14 = 82（人）

答：跳绳的有 82 人。

3. 5 × 3 × 18 = 270（户）

答：花园新村一共可以住 270 户。

4.（1）60 × 4 + 10 = 250（元）

答：一共要花 250 元。

（2）500 − 12 × 40 = 20（元）

答：应找回 20 元。

周测培优卷 5

两步计算的混合运算（含认识小括号）及应用

一、1. 乘除　加减

2. 3200　3. 28

4.（35 + 15）× 40 = 2000

5.（75 − 25）× 2

6. >　>　=　>

7. 110　22　（150 − 40）÷ 5 = 22

17　383　400 − 51 ÷ 3 = 383

8. 140　【点拨】先求出“△”代表的数是 12，再求出正确结果。

9. 163　107

二、1. A　2. C　3. C　4. B

关注微信公众号“教辅资料站”获取更多学习资料

三、1. $72-4\times15$　$27\times3+20$　$56\div8\times20$
$24+36\div6$　$360\div(12\div2)$
$(80-30)\times4$

2.
$540-(397-254)$　$445\div5\times6$
$=540-397+254$　$=89\times6$
$=143+254$　$=534$
$=397$

$26\times(59-20)$　$(500-50)\div5$
$=26\times39$　$=450\div5$
$=1014$　$=90$

$380-113\times3$　$180+25\times18$
$=380-339$　$=180+450$
$=41$　$=630$

3. (1) $7\times8\div2-4=24$
(2) $3\times6+2+4=24$
(3) $(1+1+1)\times8=24$
【点拨】(1)(2)题答案不唯一。

四、1. $(156-36)\div3=40$(页)
答：剩下的平均每天要读40页。

2. $139+201+139=479$(本)
答：农家书屋里的科技书和故事书一共有479本。

3. (1) $(108+495)\div9=67$(米)
答：小林平均每分钟走67米。
(2) $12\times67=804$(米)　$804<920$
答：小林12分钟不能从学校走到少年宫。

周测培优卷6

年、月、日的认识及24时记时法

一、1. 29　91　366
2. 二　30　4　2
3. 7　8
4. 1900年、1921年、2100年
1920年、1996年、2000年
5. 3　1
6. 9：00　15：20　12：00　6：10　20：00
23：30
7. 早上7：00　下午2：30　上午11：00
下午6：40　晚上10：00　早上9：15
8. 7　8　12　1　【点拨】连续两个大月的天数和是62天。
9. 7：00　7：30　19：00　19：30

二、1. ×　2. √　3. √　4. ×　5. ×

三、1. 11月30日　2. 7月3日
3. 7月1日　4. 12月27日
5. 2月29日　6. 6月29日

四、制作月历略　30　4　2　三　五　三

五、1. 从25日到月尾共7天　$16\times7=112$(个)
答：一共写了112个大字。

2. $29\div7=4$(个)……1(天)
答：闰年的2月有4个星期零1天。

3. $100\div5\times30=600$(道)
答：玲玲4月份一共做了600道口算题。

4. $35\times4=140$(元)　$28\times12=336$(元)
$336+140=476$(元)　答：明明家一年交水费和电话费一共要476元。

5. $2022\div4=505$……2
答：这一年是平年，全年有365天。

周测培优卷7

求简单的经过时间

一、1. 5　7　2　2. 8　3. 8　50　2　30
4. 6　5. 400
6. 8：30　13：00　17：30　5　30
7. 17：00　8. 10

二、1. ×　2. √
3. ×　【点拨】1小时可以写90个毛笔字。
4. ×

三、1. B　2. A
3. C　【点拨】换算成24时记时法。
4. B

四、(1) 40　(2) 20　(3) 15

五、1. 上午8时$=$8时　下午4时$=16$时
$16-8=8$(时)　$320\div8=40$(本)
答：平均每小时借出40本书。

2. $40-35=5$(分钟)　$5\times62=310$(米)
答：小星家离学校有310米。

3. 上午9时$=$9时　$9+10=19$(时)
答：到达泰山时是19时。

关注微信公众号“教辅资料站”获取更多学习资料

4. 17：30 = 17 时 30 分

2：30 = 2 时 30 分

24 时 − 17 时 30 分 = 6 小时 30 分

6 小时 30 分 + 2 小时 30 分 = 9 小时

14：30 = 14 时 30 分

10：30 = 10 时 30 分

18：30 = 18 时 30 分

21：00 = 21 时

14 时 30 分 − 10 时 30 分 = 4 小时

21 时 − 18 时 30 分 = 2 小时 30 分

4 小时 + 2 小时 30 分 = 6 小时 30 分

9 小时 > 6 小时 30 分

答：咏梅大排档营业时间长。

周测培优卷 8

面积含义和面积单位的认识

一、1. 面积

2. 平方厘米　平方米　厘米　平方分米　米　平方米　平方分米　米　平方米

3. 桌面

4. 平方厘米　平方米

5. 1 平方厘米　1

6. 6 平方厘米　12 厘米

二、1. ×　2. ×　3. ×　4. √

三、1. A　2. B　C　3. B　4. B　5. A

四、1.

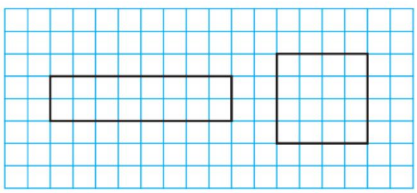

（答案不唯一）

2. 7　9　6

3. 12 平方厘米　15 平方厘米

4. 涂色略　【点拨】第 2 个涂绿色，第 5 个涂红色。

5. 20 厘米　10 平方厘米　16 厘米　8 平方厘米

6. 1 + 3 + 5 + 7 = 16（个）

16 × 4 = 64（平方厘米）

答：这个图形的面积是 64 平方厘米。

周测培优卷 9

长方形和正方形的面积计算和单位间的进率

一、1. 400　70　35　90　7　70000

2. 40 平方厘米　3. 12　1200

4. 6 分米　5. 9

6. 100　100

7. 6 平方厘米　14 厘米　10 厘米

【点拨】不管怎样摆，面积是一定的。

8. 18　18

二、1. √　2. ×　3. ×

三、1. C　2. A　3. B

四、长是 3 cm，宽是 1 cm。　$3 \times 1 = 3$（cm^2）

边长是 2 cm。　$2 \times 2 = 4$（cm^2）

五、1.（1）$12 \times (4 + 8) = 144$（平方米）

答：种青菜的面积是 144 平方米。

（2）$14 \times 4 = 56$（平方米）

答：种白菜的面积是 56 平方米。

（3）种萝卜的面积是多少平方米？

$14 \times 8 = 112$（平方米）

答：种萝卜的面积是 112 平方米。

【点拨】（3）题答案不唯一。

2. $30 \times (30 - 5) = 750$（平方分米）

答：这个长方形的面积是 750 平方分米。

3. $30 \times 18 \div 3 = 180$（棵）

答：这个桃园一共能栽 180 棵桃树。

4.（1）$32 \times 28 = 896$（平方米）

答：花圃的面积是 896 平方米。

（2）$50 \times 50 - 896 = 1604$（平方米）

答：草皮的面积是 1604 平方米。

周测培优卷 10

认识一个整体的几分之一及几分之几

一、1. $\frac{2}{5}$　$\frac{3}{4}$　2. $\frac{2}{4}$

3. $\frac{3}{5}$　6　4. $\frac{4}{10}$　$\frac{6}{100}$

5. 23　18　6. $\frac{1}{4}$　15

7. =　<　=　<

8. $\frac{6}{10}$　$\frac{3}{10}$　$\frac{1}{10}$

关注微信公众号“教辅资料站”获取更多学习资料

二、1. × 2. √ 3. √ 4. × 5. √

三、0 1 $\frac{3}{6}$ $\frac{7}{15}$ $\frac{12}{16}$ $\frac{5}{7}$ $\frac{2}{4}$ $\frac{3}{5}$ $\frac{4}{10}$ $\frac{4}{8}$

四、分一分，涂一涂略。 2 8

五、1. 8÷2=4 2. 12÷4=3

六、1. 20÷5=4（张） 20÷2=10（张）

答：他们分别获得了4张和10张星星卡。

2.（1）$\frac{2}{8}+\frac{3}{8}=\frac{5}{8}$ 240÷8×5=150（页）

答：前两天共看了150页。

（2）240−150=90（页）

答：还剩90页没看。

（3）150+1=151（页）

答：第三天应该从151页开始看。

3. 30−30÷3=20（个）

答：还剩20个。

4. 120 150

小红：120÷3=40（页）

小芳：150÷3=50（页）

答：她们看的页数不相同。

【点拨】答案不唯一。

周测培优卷11

小数的初步认识、比较大小及简单的加减法

一、1. 0.1

2. 二点七 2 7（或0.7）

3.（1）八点五 （2）零点八

（3）1.5 （4）702.7

4. 10 8

5. 0.7 9.1 0.8 6.3 0.6 5.3

6. 5.3 7.1

7. 13 14 11 10

8. 磊磊 9. 8.4

二、1. × 2. √ 3. √ 4. × 5. ×

三、1. A 2. B 3. A 4. C 5. C

四、7−2.8=4.2

$$\begin{array}{r} 7 \\ -\ 2.8 \\ \hline 4.2 \end{array}$$

6.5−2.7=3.8

$$\begin{array}{r} 6.5 \\ -\ 2.7 \\ \hline 3.8 \end{array}$$

3.8+6.9=10.7

$$\begin{array}{r} 3.8 \\ +\ 6.9 \\ \hline 10.7 \end{array}$$

4.8+0.6=5.4

$$\begin{array}{r} 4.8 \\ +\ 0.6 \\ \hline 5.4 \end{array}$$

五、1. 2.8−0.3+2.8=5.3（千克）

答：两周一共采集了5.3千克。

2. 7.6+3.8=11.4（米）

答：绳子比原来短了11.4米。

3. 6.5+3.1−4.5=5.1（℃）

答：这天晚上的气温是5.1℃。

4.（1）3.6+2.2=5.8（米）

答：修鸡笼和做手工艺品一共用去5.8米。

（2）10−5.8=4.2（米）

答：铁丝还剩下4.2米，合42分米。

（3）1.1+1.1+0.9+0.9=4（米）

4<4.2

答：够。

周测培优卷12

简单数据的汇总、排序及分组

一、1.（1）12 8 10 （2）晴天 雨天

（3）4 （4）2

2. 2 7 13 2

（1）41~50 13

（2）53 （3）24

（4）21~30 51~60

3.（1）55 30 51 66

（2）小轿 货 36

（3）202

二、1.（1）3 4 9

（2）104个 16个 88个

（3）9人 3人

2.（1）4 8 4 （2）12人 3人

3.（1）22 14 4

（2）99~100 96~98 90~95

期末复习冲刺卷

专项复习卷1 两位数乘两位数的笔算和两步混合运算

一、1. 4000 1800 2. 4 2 3. 四 1500

4. 乘 加 5. 78−12×5=18

6. 3 7. 72 199

8. = > = = 9. 576

二、1. C 2. B 3. C 4. C 5. A

关注微信公众号“教辅资料站”获取更多学习资料

三、1. 680　1800　2700　36　640　260

14　160

2. $22\times24=528$　　$20\times36=720$

$$\begin{array}{r} 22\\ \times\ 24\\ \hline 88\\ 44\\ \hline 528 \end{array}\qquad \begin{array}{r} 36\\ \times\ 20\\ \hline 720 \end{array}$$

$78\times32=2496$　　$21\times14=294$

$$\begin{array}{r} 78\\ \times\ 32\\ \hline 156\\ 234\\ \hline 2496 \end{array}\qquad \begin{array}{r} 21\\ \times\ 14\\ \hline 84\\ 21\\ \hline 294 \end{array}$$

3. $420-21\times16$　　$27+16\times15$

$=420-336$　　$=27+240$

$=84$　　$=267$

$35\times(28+21)$　　$25\times(28\div4)$

$=35\times49$　　$=25\times7$

$=1715$　　$=175$

四、1. $720-(82+122)$

2. $225\div(5\times9)$

3. $(36+64)\times18$

4. $(100-4)\div4$

五、1. $4\times13\times25=1300$（千克）

答：一共摘了1300千克。

2. $3000-92\times20=1160$（千克）

答：卖了20天后还剩1160千克。

3. $18\times6-72=36$（元）

答：每盒便宜36元。

【点拨】用现价减去原价。

4. $15\times(58+32)=1350$（元）

答：买15套这样的衣服一共要1350元。

5. $35+35\times12=455$（枝）

答：月季花和郁金香一共有455枝。

期末复习冲刺卷

专项复习卷2　年、月、日和千米、吨

一、1. 千克　吨　千米　米　千米

2. 1200　7000　60　180　5　3　1　999

3. 早上7时　下午3时　晚上8时45分　凌晨0时

4. 50　5. 800　2

6. 2　20　15　45　7. 三　四

8. 8　9. 28　181

10. 186　【点拨】7、8两月是大月，每月有31天。

二、1. B

2. B　【点拨】闰年过生日，即1996、2000、2004、2008、2012、2016年过生日。

3. C　4. B　5. B

三、1. 568米　2800米　4千米300米　5千米

2. 3吨　2吨23千克　5千克　600克

四、1. $240\div2\times6=720$（千米）

答：A、B两城之间的铁路线全长720千米。

2. $750\times6=4500$（千克）4500千克<5吨

答：这些机器的质量没有超过这辆卡车的载质量。

3. 7月份有31天　$25\times31=775$（千克）

答：7月份动物园一共需要为它准备775千克竹子。

4. 19：30=19时30分　8：30=8时30分

24时−19时30分=4小时30分

4小时30分+8小时30分=13小时

答：这列火车一共行驶了13小时。

5. $12-8+1=5$（小时）

$5\times80=400$（千米）

答：小雷家离泰山有400千米。

期末复习冲刺卷

专项复习卷3　分数、小数的初步认识

一、1. $\frac{6}{10}$　$\frac{6}{10}$　0.6　零点六　2. $\frac{1}{4}$　15

3. 8　5（或0.5）　4. 10　45

5. 0.7　1.6　2.8　3.2

6. <　=　=　=　<　=　7. 12　4

8. 8　1　3　6　【点拨】答案不唯一。

二、1. ×　2. √　3. ×　4. ×　5. √

三、1. C　2. B　3. B　4. B　5. B

四、1. $\frac{6}{7}$　$\frac{3}{5}$　$\frac{7}{9}$　$\frac{1}{8}$　1　0.8　0.9　0.7　3　0.6

关注微信公众号“教辅资料站”获取更多学习资料

2. 0.7+0.1=0.8　　4.8+1.4=6.2

$$\begin{array}{r} 0.7 \\ +\ 0.1 \\ \hline 0.8 \end{array} \qquad \begin{array}{r} 4.8 \\ +\ 1.4 \\ \hline 6.2 \end{array}$$

2.7+1.5=4.2　　4.7+2.5=7.2

$$\begin{array}{r} 2.7 \\ +\ 1.5 \\ \hline 4.2 \end{array} \qquad \begin{array}{r} 4.7 \\ +\ 2.5 \\ \hline 7.2 \end{array}$$

2.9−0.4=2.5　　8.6−0.8=7.8

$$\begin{array}{r} 2.9 \\ -\ 0.4 \\ \hline 2.5 \end{array} \qquad \begin{array}{r} 8.6 \\ -\ 0.8 \\ \hline 7.8 \end{array}$$

五、1. 5.2+2.4=7.6（元）

5.2−2.4=2.8（元）

答：这两种水果各买1千克共需7.6元，买1千克苹果比买1千克梨多付2.8元。

2. 30÷2=15（个）

30÷6=5（个）

30÷3=10（个）　15>10>5

答：小明吃得最多。

3.（1）2.1+2.7=4.8（吨）

答：两次一共运走4.8吨煤。

（2）5.8−4.8=1（吨）

答：还剩1吨煤没有运走。

4. 8×6=48（平方米）

48÷6×5=40（平方米）

答：已经铺了40平方米。

期末复习冲刺卷

专项复习卷4　长方形和正方形的面积

一、1. 面积　周长

2. 800　23　200000　80

3. 平方分米　平方分米　分米　平方分米　平方米　平方厘米

4. 12　1200

5. 10厘米　4平方厘米

6. 3　24

7. 8　1　8　4　2　8

二、1. ×　2. ×　3. ×　4. √　5. √

三、1. C　2. C　3. C　4. B　5. B

四、84米　432平方米　62分米　228平方分米　140厘米　1225平方厘米

五、（1）

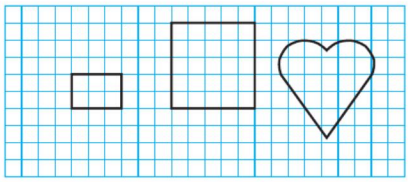

【点拨】长方形画法不唯一。

（2）18（答案不唯一，合理即可）

六、1. 2×(5+3)=16（厘米）

5×3=15（平方厘米）

答：图形的周长为16厘米，面积为15平方厘米。

2. 36×(36−12)=864（平方米）

答：这块菜地的面积是864平方米。

3. 20×20÷2=200（平方米）

答：西红柿占地200平方米。

4. 20×4=80（米）　20×20=400（平方米）

答：篱笆有80米长，这块菜地有400平方米。

期末复习冲刺卷

专项复习卷5　解决实际问题的策略和统计

一、1. □　2. 30×8=240（条）

3. 481　4. 40　5. 132　6. 48

7. 面包车辆数　小轿车辆数　面包车辆数

小轿车辆数　28×3=84（辆）

84+28=112（辆）

二、1. A　2. C　3. A　4. C

三、（1）18　9　15　（2）苹果　梨

（3）9　（4）24

四、1. 20+20×3=80（人）

答：绘画组与羽毛球社团共有80人。

2.（72−27）÷5=9（盒）

答：可以装9盒。

3.（1）3×8+15=39（元）

答：应付39元。

（2）100−8×6=52（元）

答：应找回52元。

4.（1）18×3−18=36（人）

答：打篮球的比踢足球的多36人。

（2）18+(18+15)=51（人）

答：跳绳的和踢足球的一共有51人。

关注微信公众号“教辅资料站”获取更多学习资料

期末复习冲刺卷

满分压轴卷 1　常考易错突破卷（一）

一、1. 6　252　20　840　26　1092

2. 1　4　【点拨】注意单位，两个来回是四趟。

3. 10　1　国庆

4. $36 \div (21 - 18) = 12$

5. 1　20　6. 300　1

7. 18　12　8 cm^2

8. 49×61　9. 3

10. 0.6　11. $\frac{1}{8}$（或$\frac{6}{48}$）

12. 31　4　3

13.（1）5 小时 30 分　（2）10 小时

二、1. ×　2. √　3. ×　4. ×　5. ×

6. √

三、$30 \times 67 = 2010$

$$\begin{array}{r} 67 \\ \times\ 30 \\ \hline 2010 \end{array}$$

$8.3 - 7.6 = 0.7$

$$\begin{array}{r} 8.3 \\ -\ 7.6 \\ \hline 0.7 \end{array}$$

$64 \times 46 = 2944$

$$\begin{array}{r} 64 \\ \times\ 46 \\ \hline 384 \\ 256 \\ \hline 2944 \end{array}$$

$2.4 + 1.5 = 3.9$

$$\begin{array}{r} 2.4 \\ +\ 1.5 \\ \hline 3.9 \end{array}$$

四、1. $4 \times 3 = 12$（平方米）

12 平方米 = 1200 平方分米

$2 \times 2 = 4$（平方分米）

$1200 \div 4 = 300$（块）

答：一共需要 300 块这样的地砖。

2. $48 \div 4 \times 3 = 36$（页）

$36 + 1 = 37$（页）

答：他第 4 天应从 37 页看起。

3. $9.5 - 3.8 + 9.5 = 15.2$（元）

答：妈妈买水果一共用去 15.2 元。

4. $32 \times 15 \div 8 = 60$（页）

答：剩下的平均每天看 60 页。

期末复习冲刺卷

满分压轴卷 2　常考易错突破卷（二）

一、1. 4　3　2. 2　3. 正方　25

4. 6000　3　500　70　4

5. $\frac{8}{10}$　0.8　$\frac{9}{10}$　9

6. $\frac{1}{10}$　$\frac{7}{10}$

7. 40　8. 18 时　晚上 10 时

9. 2400　10. 4　25

二、1. A　2. C　3. B　4. B

三、$274 - (76 + 38) = 274 - 114 = 160$

$(847 - 280) \div 7 = 567 \div 7 = 81$

$480 - 12 \times 24 = 480 - 288 = 192$

$18 \times (210 - 187) = 18 \times 23 = 414$

四、1.

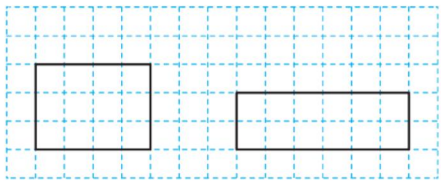

（答案不唯一）

2. 16　8　2

五、1. 当长靠墙时：$(16 - 6) \div 2 = 5$（米）

$5 \times 6 = 30$（平方米）

当宽靠墙时：$16 - 2 \times 6 = 4$（米）

$4 \times 6 = 24$（平方米）

答：菜园的面积是 30 平方米或 24 平方米。

【点拨】画图理解，分两种情况，先求出宽。

2.（200 − 78）÷ 2 = 61（页）

答：小宁平均每天看 61 页。

【点拨】平均每天看的页数 = 已看的页数 ÷ 2。

3. 下午 2：20 是 14：20

$14 - 9 = 5$（小时）

$178 \times 5 = 890$（个）

答：这一天他共做了 890 个零件。

4. $120 \div (4 - 1) = 40$（个）

$40 \times 4 = 160$（个）

答：王师傅一天生产 160 个零件，徒弟一天生产 40 个零件。

关注微信公众号“教辅资料站”获取更多学习资料