荣德基小学系列

荣德基 主编



星级口算天天练

教辅资料站

电子教辅 试卷练习
知识总结 备课资源

扫码关注获取更多学习资料

三年级 数学 下（R版）

时代出版传媒股份有限公司
安徽教育出版社

常规好题题题好 变式妙题道道妙

荣德基 星级口算天天练 三年级数学 下 R版

时代出版传媒股份有限公司

荣德基小学系列

星级口算天天练

三年级 数学 下（R版）

主 编：荣德基　本册主编：陈新然



学 校：.....

班 级：.....

姓 名：.....

喜欢的格言：.....

时代出版传媒股份有限公司
安徽教育出版社

关注微信公众号“教辅资料站”获取更多学习资料

图书在版编目（CIP）数据

星级口算天天练. 数学三年级. 下 ：R 版 / 荣德基主编. — 合肥 ：安徽教育出版社，2019

ISBN 978-7-5336-8984-1

Ⅰ. ①星… Ⅱ. ①荣… Ⅲ. ①速算－小学－习题集 Ⅳ. ①G624.565

中国版本图书馆 CIP 数据核字（2019）第 171006 号

星级口算天天练 · 三年级数学下（R 版）

XINGJI KOUSUAN TIANTIANLIAN · SANNIANJI SHUXUE XIA (R BAN)

出 版 人：费世平
质量总监：武常春
责任编辑：刘义平
责任校对：贾佳茹
装帧设计：典点瑞泰
责任印制：荣德印务

出版发行：时代出版传媒股份有限公司　安徽教育出版社
地　　址：合肥市经开区繁华大道西路 398 号　邮编：230601
网　　址：http://www.ahep.com.cn
营销电话：(0551) 63683016，63683015
排　　版：北京华艺优创文化发展有限公司
印　　刷：山东润声印务有限公司

开　　本：787×1092　1/16
印　　张：6
字　　数：120 千字
版　　次：2019 年 10 月第 1 版　2019 年 10 月第 1 次印刷
定　　价：21.90 元

（如发现印装质量问题，影响阅读，请与本社营销部联系调换）

微信公众号 教辅资料站

关注微信公众号“教辅资料站”获取更多学习资料

CONTENTS

目录

第1单元　位置与方向（一）

练习1　认识东南西北（一）…… 1
练习2　认识东南西北（二）…… 2
练习3　认识东北、东南、西北、西南 …… 3
练习4　简单的路线（一）…… 4
练习5　简单的路线（二）…… 5
第1单元口算能力测试 …… 6



第2单元　除数是一位数的除法



练习1　口算整十、整百、整千数除以一位数 … 7
练习2　口算几百几十、几千几百除以一位数 … 8
练习3　两位数除以一位数口算 …… 9
练习4　两位数除以一位数笔算除法（一） … 10
练习5　两位数除以一位数笔算除法（二） … 11
练习6　商是三位数的除法 …… 12
练习7　商是两位数的除法 …… 13
练习8　有余数除法 …… 14
练习9　商中间有0的除法 …… 15
练习10　商末尾有0的除法（一） …… 16
练习11　商末尾有0的除法（二） …… 17
练习12　估算（一） …… 18
练习13　估算（二） …… 19
第2单元口算能力测试 …… 20

第3单元　复式统计表

练习1　认识复式统计表 …… 21
练习2　根据复式统计表回答问题 …… 22
第3单元口算能力测试 …… 23



微信公众号
教辅资料站

关注微信公众号“教辅资料站”获取更多学习资料

第4单元　两位数乘两位数

练习1　口算几百几十乘一位数 …… 24
练习2　口算两位数乘整十、整百数（一）…… 25
练习3　口算两位数乘整十、整百数（二）…… 26
练习4　不进位的笔算乘法（一）…… 27
练习5　不进位的笔算乘法（二）…… 28
练习6　进位的笔算乘法（一）…… 29
练习7　进位的笔算乘法（二）…… 30
练习8　乘法两步计算解决问题（一）…… 31
练习9　乘法两步计算解决问题（二）…… 32
练习10　除法两步计算解决问题（一）…… 33
练习11　除法两步计算解决问题（二）…… 34
第4单元口算能力测试 …… 35



第5单元　面积



练习1　面积的意义 …… 36
练习2　面积单位 …… 37
练习3　长方形面积计算 …… 38
练习4　正方形面积计算 …… 39
练习5　长方形、正方形面积计算习题课 …… 40
练习6　面积单位间的进率（一）…… 41
练习7　面积单位间的进率（二）…… 42
练习8　用方砖铺地面 …… 43
第5单元口算能力测试 …… 44

第6单元　年、月、日

练习1　年、月、日的认识（一）…… 45
练习2　年、月、日的认识（二）…… 46
练习3　平年、闰年的认识…… 47
练习4　24时计时法 …… 48

微信公众号
教辅资料站

关注微信公众号“教辅资料站”获取更多学习资料

练习5　24时计时法解决问题（一）…… 49
练习6　24时计时法解决问题（二）…… 50
第6单元口算能力测试 …… 51
制作活动日历 …… 52



第7单元　小数的初步认识



练习1　认识小数（一） …… 53
练习2　认识小数（二） …… 54
练习3　小数的大小比较 …… 55
练习4　简单的小数加减法 …… 56
练习5　小数加减法的实际应用（一） …… 57
练习6　小数加减法的实际应用（二） …… 58
第7单元口算能力测试 …… 59

第8单元　数学广角——搭配（二）

练习1　搭配（一） …… 60
练习2　搭配（二） …… 61
练习3　搭配（三） …… 62
第8单元口算能力测试 …… 63
我们的校园 …… 64

第9单元　总复习

练习1　位置与方向（一） …… 65
练习2　除数是一位数的除法 …… 66
练习3　复式统计表 …… 67
练习4　两位数乘两位数 …… 68
练习5　面积 …… 69
练习6　年、月、日 …… 70
练习7　小数的初步认识 …… 71
练习8　数学广角——搭配（二） …… 72

口算能力期末综合测评（一） …… 73
口算能力期末综合测评（二） …… 74
参考答案 …… 75

微信公众号
教辅资料站

关注微信公众号“教辅资料站”获取更多学习资料

第1单元 位置与方向（一）

练习1 认识东南西北（一）

用时：____分____秒　错误：　个

A组 常规口算题

21 +18 =	480 +230 =	560 +110 =
20 +17 =	470 −450 =	17 +26 =
41 −11 =	21 +27 =	16 −14 =
320 +210 =	550 −130 =	390 +250 =
250 +220 =	19 +48 =	190 +210 =
17 +33 =	940 −270 =	48 −7 =
19 +20 =	39 −16 =	45 −13 =
560 −110 =	440 +180 =	400 −210 =
16 +40 =	49 −40 =	440 −180 =
730 +240 =	350 +170 =	590 +20 =
860 +50 =	770 −240 =	360 −250 =
38 −11 =	48 −17 =	48 −23 =
340 +160 =	41 −39 =	14 +19 =
47 −13 =	530 −70 =	330 +390 =
46 +0 =	45 +14 =	46 −18 =
19 +28 =	21 +19 =	39 +51 =

B组 变式口算题

我会填。

1. ☆



晚上，当你面对北极星时，你的后面是(　　)面，你的左面是(　　)面，你的右面是(　　)面。

2.

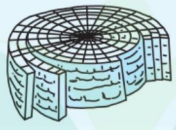

树的年轮较密的一侧向着北面，较疏的一侧向着(　　)面。

3.



指南针黑色指针指向北面，白色指针指向(　　)面。

微信公众号 教辅资料站

关注微信公众号“教辅资料站”获取更多学习资料

练习2 认识东南西北（二）

用时：____分____秒 错误：　个

A组 常规口算题

80 +130 =	72 −15 =	65 +15 =
54 ÷9 =	3 ×600 =	35 ÷5 =
22 ×4 =	50 ×9 =	11 +22 =
35 +80 =	750 −30 =	115 −4 =
800 ×6 =	100 −24 =	44 ×2 =
34 ×2 =	30 ×7 =	56 −45 =
350 −80 =	5 ×500 =	730 −300 =
42 +48 =	49 ÷7 =	46 −23 =
72 −24 =	501 −1 =	130 +270 =
15 ÷5 =	220 ×4 =	450 −160 =
43 ×3 =	125 −25 =	11 ×9 =
31 ×5 =	80 −17 =	42 ×2 =
900 −640 =	3 ×400 =	140 ×7 =
660 −60 =	75 −16 =	54 −16 =
32 ×3 =	220 +4 =	390 −39 =
14 ×6 =	56 ÷8 =	420 −30 =

B组 变式口算题

我会填。

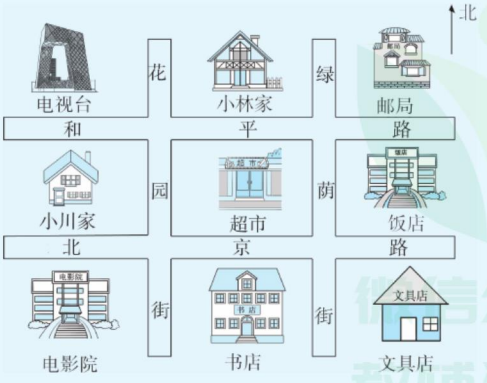

1. 小林家在超市的(　　)面，书店在超市的(　　)面。

2. 小川家在超市的(　　)面，电影院在小川家的(　　)面。

3. (　　)在小林家的西面，饭店的北面是(　　)。

微信公众号 教辅资料站

关注微信公众号“教辅资料站”获取更多学习资料

练习3　认识东北、东南、西北、西南

用时：____分____秒　错误：　个

A组　常规口算题

50 ×2 =	860 −600 =	56 −3 ×7 =
80 +140 =	23 ×3 =	54 ÷9 +27 =
860 −60 =	200 ×8 =	20 ×3 +98 =
42 ÷6 =	81 ÷9 =	70 ×9 −120 =
42 +36 =	110 +790 =	(150 +50) ×4 =
40 ×5 =	850 −160 =	27 ÷(3 +6) =
35 ÷7 =	270 −15 =	33 +64 ÷8 =
14 ×4 =	780 −620 =	64 −4 −8 =
500 ×6 =	4 ×100 =	360 +120 +50 =
13 ×5 =	57 +80 =	16 ÷4 ×80 =
25 +80 =	620 +30 =	70 −5 ×9 =
22 ×4 =	12 ×3 =	48 ÷8 +310 =
0 ×45 =	64 ÷8 =	98 +26 ×0 =
30 ×6 =	120 +590 =	4 ×4 −4 =
56 −47 =	440 −170 =	7 ×(130 +70) =
92 −31 =	301 ×7 =	6 ×5 +37 =

B组　变式口算题

请你帮助小动物找到它们的家。

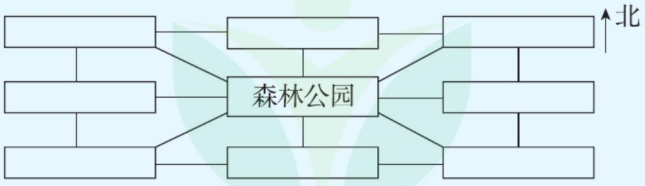

1. 熊猫家在森林公园的北面，小鹿家在森林公园的南面。
2. 小羊家在森林公园的东面，小牛家在森林公园的西面。
3. 森林公园的东北角是小花猫家，东南角是小兔家，西北角是小猪家，西南角是小狗家。

关注微信公众号“教辅资料站”获取更多学习资料

练习4 简单的路线（一）

用时：____分____秒 错误：　个

A组 常规口算题

32 +9 =	15 ×4 =	240 +(　　) =350
60 ×3 =	9 ×80 =	(　　) ÷7 =12
22 ×2 =	160 ×4 =	(　　) +5 =150
28 ÷4 =	49 ×20 =	360 −(　　) =210
71 −7 =	56 ×3 =	400 +(　　) =930
400 −70 =	36 +50 =	(　　) ÷4 =18
910 +50 =	920 −130 =	5 ×(　　) =40
69 −30 =	110 +37 =	(　　) −310 =390
28 +17 =	72 ÷9 =	900 −(　　) =630
30 ×8 =	310 ×3 =	94 +(　　) =100
13 ×4 =	18 +46 =	39 −(　　) =15
48 ÷8 =	53 −17 =	88 +(　　) =97
64 −36 =	0 +760 =	540 −(　　) =40
31 ×3 =	92 −45 =	8 ×(　　) =24
36 ×2 =	100 −33 =	(　　) ÷6 =13
405 ×3 =	28 ×3 =	357 −(　　) =357

B组 变式口算题

红红从甜品屋出发到电影院，她可以怎样走？请你把红红的行走路线填写完整。

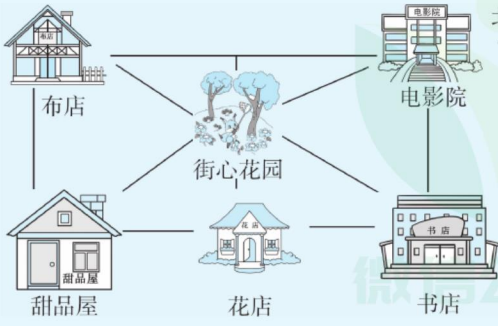

1. 从甜品屋出发，向北走到(　　)，再向(　　)走到电影院。
2. 从甜品屋出发，向(　　)方向走到街心花园，再向(　　)方向走到电影院。
3. 从甜品屋出发，向(　　)走到花店，再向(　　)走到书店，再向北走到电影院。

关注微信公众号“教辅资料站”获取更多学习资料

练习5 简单的路线（二）

用时：____分____秒 错误：　个

A组 常规口算题

360 −30 =
42 ×2 =
120 ×5 =
150 +70 =
590 −400 =
76 +27 =
84 ×2 =
64 ÷8 =
73 ×3 =
405 ×2 =
0 +44 =
300 ×2 =
76 ×3 ≈
432 ×3 ≈
607 ×5 ≈
236 ×4 ≈

54 +90 =
600 +1200 =
36 +49 =
600 ×6 =
180 −30 =
120 −60 =
990 −90 =
18 ÷2 =
250 ×3 =
290 −110 =
170 ×4 =
107 ×4 =
541 +261 ≈
101 ×5 ≈
420 −395 ≈
153 ×8 ≈

◆ 在○里填“ >”“ <”或“ =”。

170 ×3 ○ 500
192 ×4 ○ 800
2400 ○ 392 ×8
985 −500 ○ 400
300 ×8 ○ 2400
42 ×6 ○ 300
220 ×3 ○ 650
435 −195 ○ 235
175 +62 ○ 300
310 −297 ○ 200
300 ○ 53 ×6
400 ○ 47 ×8
1000 ○ 877 +123
427 +407 ○ 850
189 ×3 ○ 540

B组 变式口算题

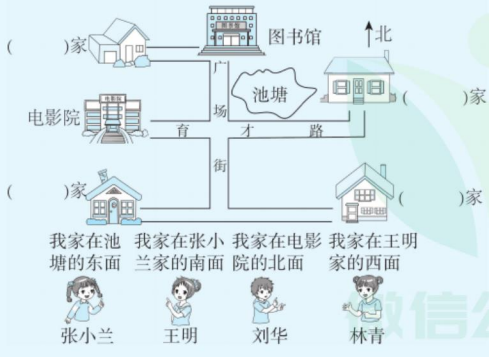

1. 你能在图中找到各位同学的家吗？填一填。
2. 星期天，刘华和林青约好去电影院看电影。
(1) 刘华从家出发，先向(　　)走到(　　)，然后向(　　)走到(　　)，最后向(　　)走到电影院。
(2) 请你画出林青从家出发去电影院的行走路线。

关注微信公众号“教辅资料站”获取更多学习资料

第1单元口算能力测试

用时：____分____秒 错误：　个

A组 常规口算题

54 +18 =
50 ×6 =
31 ×2 =
1300 −600 =
42 ÷7 =
460 +400 =
800 ×5 =
39 +43 =
0 ×324 =
28 ÷4 =
65 −37 =
38 +59 =
940 −850 =
54 ÷6 =
34 ×3 =
5000 −500 =

47 +32 =
13 ×5 =
12 ×4 =
89 −61 =
96 ×2 =
460 +40 =
790 −610 =
140 −58 =
210 ×4 =
989 +0 =
1500 −900 =
200 ×8 =
1000 −310 =
830 +110 =
85 ×4 =
70 +32 =

◆（　　）里最大能填几？

8 ×（　　）<65
40 ×（　　）<247
350 >（　　）+45
427 −（　　）>327
（　　）−57 <100
32 ×（　　）<129
58 +（　　）<100
54 −（　　）>15
210 >（　　）+110
40 ×（　　）<200
303 ×（　　）<1200
（　　）+56 <120
59 <100 −（　　）
18 >（　　）−20
51 ×（　　）<162
20 ÷（　　）<5

B组 变式口算题

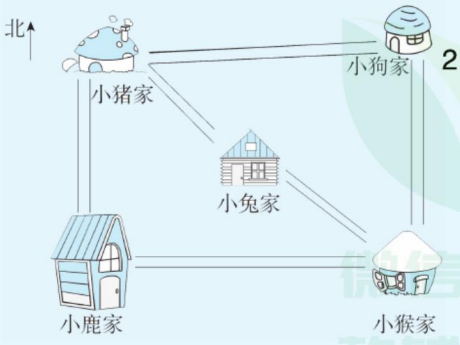

1. 小猴家在小狗家的（　　）面，小鹿家在小兔家的（　　）方向。
2. 从小猪家到小猴家，可以怎样走？把行走路线补充完整。
从小猪家向南走到（　　）家，再向（　　）走到小猴家；或从小猪家向（　　）走到小狗家，再向（　　）走到小猴家；或从小猪家沿（　　）方向走到小兔家，再沿（　　）方向走到小猴家。

关注微信公众号“教辅资料站”获取更多学习资料

第2单元 除数是一位数的除法

练习1 口算整十、整百、整千数除以一位数

用时：____分____秒　错误：　个

A组 常规口算题

30 ÷ 3 =	27 ÷ 9 =	24 ÷ 2 =
60 ÷ 2 =	99 ÷ 3 =	60 ÷ 3 =
54 ÷ 6 =	84 ÷ 4 =	46 ÷ 2 =
66 ÷ 3 =	3000 ÷ 3 =	9000 ÷ 9 =
9000 ÷ 3 =	600 ÷ 2 =	93 ÷ 3 =
44 ÷ 2 =	80 ÷ 2 =	900 ÷ 3 =
6000 ÷ 6 =	500 ÷ 5 =	400 ÷ 2 =
36 ÷ 3 =	36 ÷ 4 =	77 ÷ 7 =
800 ÷ 4 =	82 ÷ 2 =	20 ÷ 2 =
64 ÷ 2 =	90 ÷ 3 =	32 ÷ 4 =
40 ÷ 2 =	8000 ÷ 2 =	96 ÷ 3 =
48 ÷ 8 =	28 ÷ 2 =	88 ÷ 8 =
86 ÷ 2 =	69 ÷ 3 =	53 ÷ 1 =
39 ÷ 3 =	700 ÷ 7 =	300 ÷ 3 =
600 ÷ 3 =	4000 ÷ 2 =	8000 ÷ 8 =
50 ÷ 5 =	200 ÷ 2 =	100 ÷ 2 =

B组 变式口算题

1. 800 是 4 的(　　)倍，9000 是(　　)的 3 倍。

2. 包装一个生日蛋糕需要用 3 米长的彩带，蛋糕店买来一盘 60 米长的彩带，可以包装(　　)个生日蛋糕。

3. 育才小学三、四年级 8 个班共收集到塑料瓶 800 个，平均每个班收集(　　)个塑料瓶，平均每个年级收集(　　)个塑料瓶。

4. 把 200 千克桃子平均装在 5 个纸箱里，每个纸箱要装(　　)千克桃子。

关注微信公众号“教辅资料站”获取更多学习资料

练习2 口算几百几十、几千几百除以一位数

用时：____分____秒 错误：　个

A组 常规口算题

25 ÷ 5 =	70 × 7 =	4000 ÷ 5 =
250 ÷ 5 =	720 ÷ 8 =	60 × 1 =
30 × 4 =	33 ÷ 3 =	450 ÷ 9 =
120 ÷ 4 =	20 × 8 =	1800 ÷ 6 =
96 ÷ 3 =	240 ÷ 4 =	800 × 8 =
150 ÷ 5 =	5600 ÷ 8 =	5600 ÷ 7 =
2400 ÷ 6 =	540 ÷ 9 =	240 ÷ 3 =
350 ÷ 5 =	3200 ÷ 8 =	900 ÷ 9 =
400 ÷ 8 =	42 ÷ 2 =	640 ÷ 8 =
50 × 6 =	55 ÷ 5 =	23 × 3 =
93 ÷ 3 =	90 × 3 =	84 ÷ 2 =
64 ÷ 2 =	70 × 4 =	69 ÷ 3 =
480 ÷ 8 =	39 ÷ 3 =	40 × 7 =
360 ÷ 9 =	120 ÷ 3 =	99 ÷ 3 =
84 ÷ 4 =	2000 ÷ 5 =	420 ÷ 7 =
60 × 3 =	350 ÷ 7 =	3600 ÷ 6 =

B组 变式口算题

1. 一共有 120 面小旗，平均分给 4 个班，每个班分得(　　)面。如果把这些小旗平均分给 6 个班，每个班分得(　　)面。

2. 三年级同学去公园划船，男同学有 72 人，女同学有 78 人，每 5 人坐一条船，一共需租(　　)条船。

3. 学校买回 6 捆书，每捆 40 本，现把这些书平均分给 8 个班，每个班可分得(　　)本。

4. 实验小学购进一批图书共 1800 本，平均分给 6 个年级，每个年级分(　　)本。

微信公众号 教辅资料站

关注微信公众号“教辅资料站”获取更多学习资料

练习3 两位数除以一位数口算

用时：____分____秒 错误：　个

A组 常规口算题

160 ÷ 4 =	420 ÷ 6 =	6000 ÷ 3 =
500 ÷ 5 =	7200 ÷ 8 =	64 ÷ 2 =
66 ÷ 3 =	39 ÷ 3 =	84 ÷ 4 =
48 ÷ 2 =	600 ÷ 2 =	250 ÷ 5 =
350 ÷ 7 =	1600 ÷ 2 =	4000 ÷ 5 =
90 ÷ 3 =	82 ÷ 2 =	300 ÷ 3 =
4800 ÷ 8 =	320 ÷ 8 =	86 ÷ 2 =
96 ÷ 3 =	80 ÷ 4 =	630 ÷ 9 =
560 ÷ 7 =	560 ÷ 8 =	160 ÷ 2 =
8000 ÷ 4 =	99 ÷ 3 =	88 ÷ 4 =
2400 ÷ 6 =	8100 ÷ 9 =	180 ÷ 9 =
93 ÷ 3 =	2000 ÷ 2 =	46 ÷ 2 =
28 ÷ 2 =	100 ÷ 2 =	2400 ÷ 3 =
200 ÷ 4 =	490 ÷ 7 =	140 ÷ 7 =
36 ÷ 3 =	26 ÷ 2 =	42 ÷ 2 =
55 ÷ 5 =	69 ÷ 3 =	48 ÷ 4 =

B组 变式口算题

选一选。

1. 爷爷今年 64 岁，是爸爸年龄的 2 倍，是小华年龄的 8 倍，爸爸今年(　　)岁，小华今年(　　)岁。

A. 32　　B. 4　　C. 16　　D. 8

2. 某果园要运出 900 千克苹果，已经运出 600 千克，剩下的每筐装 6 千克，还需要装(　　)筐。

A. 150　　B. 100　　C. 50　　D. 5

3. 超市运进 96 千克草莓，每 3 千克装一盒，已经卖出 11 盒，还剩(　　)盒。

A. 32　　B. 43　　C. 21　　D. 85

关注微信公众号“教辅资料站”获取更多学习资料

练习4 两位数除以一位数笔算除法（一）

用时：___分___秒 错误：　个

A组 常规口算题

36 ÷3 =	40 ÷2 =	(　　) ×5 =450
46 ÷2 =	84 ÷4 =	7 ×(　　) =6300
50 ×7 =	70 ×6 =	(　　) ÷3 =50
4800 ÷8 =	600 ÷2 =	(　　) ÷9 =600
500 ÷5 =	480 ÷6 =	6 ×(　　) =180
34 ×2 =	90 ×3 =	4 ×(　　) =160
15 ×4 =	450 ÷5 =	(　　) ×3 =2700
48 ÷4 =	8000 ÷4 =	(　　) ÷6 =80
7200 ÷9 =	82 ÷2 =	(　　) ÷7 =700
560 ÷7 =	12 ×5 =	3 ×(　　) =150
700 ×7 =	39 ÷3 =	(　　) ×5 =1000
22 ×3 =	8100 ÷9 =	9 ×(　　) =8100
36 ×2 =	420 ÷7 =	(　　) ÷4 =70
400 ÷5 =	17 ×3 =	(　　) ÷9 =20
1200 ÷6 =	25 ×4 =	8 ×(　　) =4000
350 ÷7 =	99 ÷3 =	3 ×(　　) =240

B组 变式口算题

我会填。

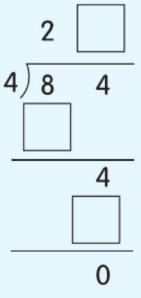

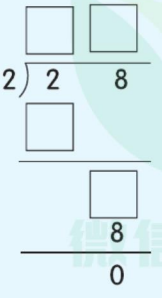

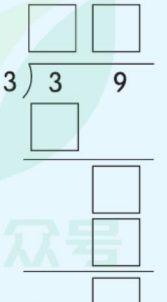

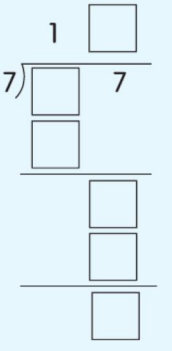

微信公众号 教辅资料站

关注微信公众号“教辅资料站”获取更多学习资料

练习5　两位数除以一位数笔算除法（二）

用时：____分____秒　错误：　个

A组　常规口算题

33 ÷3 =	200 ×4 =	39 ÷3 =
92 ×2 =	88 ÷8 =	58 ÷2 =
68 ÷2 =	90 ×9 =	150 ÷3 =
450 ÷5 =	85 ÷5 =	4500 ÷9 =
52 ÷2 =	300 ×5 =	33 ×3 =
12 ×4 =	240 ÷6 =	8000 ÷4 =
43 ×3 =	720 ÷9 =	55 ÷5 =
49 ÷7 =	500 ×8 =	56 ÷4 =
86 ÷2 =	2000 ÷4 =	15 ×4 =
34 ÷2 =	82 ÷2 =	13 ×4 =
51 ×2 =	69 ÷3 =	900 ÷3 =
88 ÷4 =	84 ÷6 =	7200 ÷8 =
80 ÷2 =	0 ×144 =	640 ÷8 =
25 ×3 =	31 ×4 =	72 ÷3 =
27 ×2 =	430 ×1 =	45 ×3 =
72 ÷8 =	96 ÷3 =	36 ×2 =

B组　变式口算题

1. (　　)的8倍是96，(　　)是6的30倍。

2. 我会填。

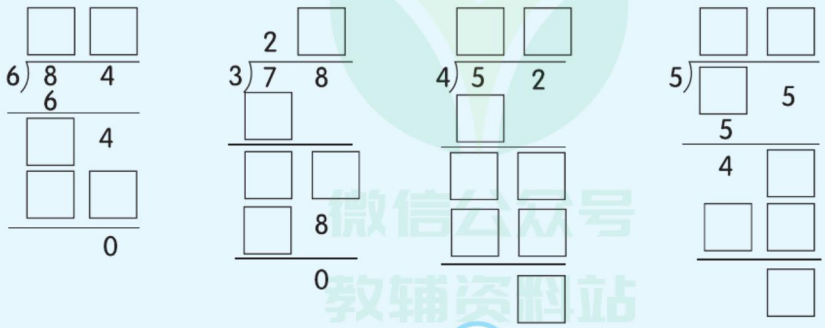

关注微信公众号“教辅资料站”获取更多学习资料

练习6 商是三位数的除法

用时：____分____秒 错误：　个

A组 常规口算题

339 ÷ 3 =	91 ÷ 7 =	486 ÷ 2 =
63 ÷ 3 =	560 ÷ 8 =	448 ÷ 2 =
22 ÷ 2 =	444 ÷ 2 =	48 ÷ 4 =
540 ÷ 6 =	96 ÷ 8 =	93 ÷ 3 =
70 ÷ 5 =	85 ÷ 5 =	448 ÷ 4 =
396 ÷ 3 =	64 ÷ 4 =	48 ÷ 3 =
56 ÷ 4 =	848 ÷ 4 =	66 ÷ 6 =
900 ÷ 3 =	90 ÷ 6 =	72 ÷ 2 =
600 ÷ 6 =	400 ÷ 2 =	699 ÷ 3 =
428 ÷ 2 =	350 ÷ 7 =	78 ÷ 6 =
57 ÷ 3 =	248 ÷ 2 =	200 ÷ 5 =
250 ÷ 5 =	95 ÷ 5 =	490 ÷ 7 =
90 ÷ 5 =	480 ÷ 8 =	636 ÷ 3 =
555 ÷ 5 =	39 ÷ 3 =	400 ÷ 8 =
84 ÷ 4 =	52 ÷ 4 =	360 ÷ 6 =

B组 变式口算题

我会填。

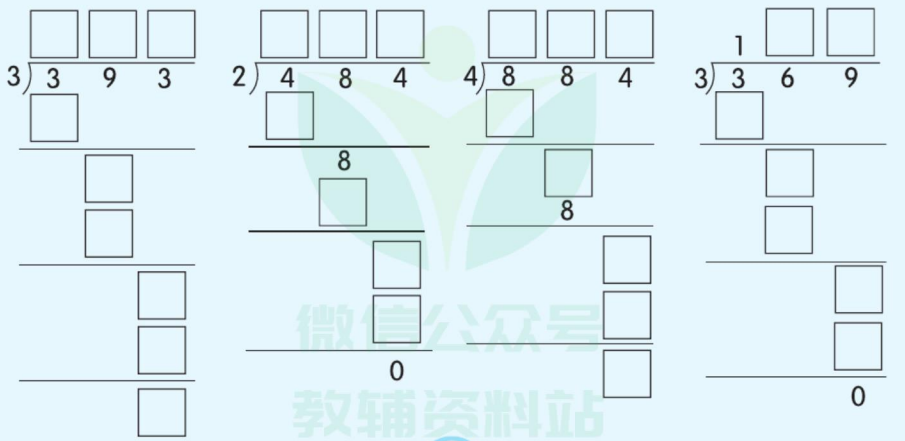

微信公众号 教辅资料站

关注微信公众号“教辅资料站”获取更多学习资料

练习7　商是两位数的除法

用时：____分____秒　错误：　个

A组　常规口算题

26 ÷2 =	546 ÷6 =	76 ÷4 =
34 ÷2 =	96 ÷4 =	81 ÷3 =
324 ÷4 =	80 ÷5 =	60 ÷6 =
484 ÷2 =	78 ÷3 =	427 ÷7 =
93 ÷3 =	357 ÷7 =	810 ÷9 =
279 ÷3 =	364 ÷4 =	648 ÷8 =
75 ÷5 =	255 ÷5 =	126 ÷2 =
486 ÷6 =	648 ÷2 =	189 ÷3 =
60 ÷4 =	287 ÷7 =	288 ÷2 =
369 ÷3 =	249 ÷3 =	78 ÷6 =
88 ÷2 =	448 ÷4 =	84 ÷7 =
248 ÷4 =	50 ÷2 =	84 ÷4 =
456 ÷4 =	46 ÷2 =	57 ÷3 =
84 ÷2 =	77 ÷7 =	48 ÷6 =
355 ÷5 =	92 ÷4 =	68 ÷2 =
66 ÷6 =	400 ÷5 =	90 ÷3 =

B组　变式口算题

1. 判断。

(1)396 ÷4 的商是三位数。　(　　)

(2)一个三位数除以 9，商一定是两位数。　(　　)

2. 填一填。

(1)□59 ÷6，如果商是三位数，□里可以填(　　)；如果商是两位数，□里最大填(　　)。

(2)修路队要修一条 500 米长的公路，已经修了 380 米，如果剩下的要用 3 天完成，平均每天要修(　　)米。

关注微信公众号“教辅资料站”获取更多学习资料

练习8 有余数除法

用时：____分____秒 错误：　个

A组 常规口算题

249 ÷ 3 =	74 ÷ 3 =	97 ÷ 5 =
186 ÷ 6 =	83 ÷ 5 =	98 ÷ 3 =
59 ÷ 3 =	93 ÷ 2 =	69 ÷ 2 =
43 ÷ 2 =	102 ÷ 5 =	216 ÷ 3 =
77 ÷ 4 =	50 ÷ 4 =	89 ÷ 3 =
97 ÷ 7 =	58 ÷ 4 =	99 ÷ 4 =
87 ÷ 5 =	430 ÷ 7 =	729 ÷ 9 =
328 ÷ 4 =	332 ÷ 8 =	46 ÷ 4 =
637 ÷ 7 =	277 ÷ 3 =	217 ÷ 7 =
728 ÷ 8 =	45 ÷ 7 =	39 ÷ 2 =
549 ÷ 9 =	364 ÷ 4 =	68 ÷ 3 =
900 ÷ 9 =	480 ÷ 8 =	87 ÷ 4 =
425 ÷ 6 =	288 ÷ 4 =	87 ÷ 2 =
355 ÷ 5 =	93 ÷ 6 =	426 ÷ 6 =
248 ÷ 4 =	357 ÷ 7 =	89 ÷ 6 =
372 ÷ 9 =	90 ÷ 4 =	80 ÷ 3 =
348 ÷ 2 =	37 ÷ 4 =	105 ÷ 5 =

B组 变式口算题

1. ☆ ÷□=21……5，□最小是(　　)，这时□是(　　)。

2. “六一”儿童节，同学们一共做了 248 朵花，每 6 朵扎为一束，一共可以扎(　　)束，还剩(　　)朵。

3. 服装厂制作一批工作服，每件上衣需要钉 8 颗扣子，729 颗扣子能钉(　　)件上衣，还剩(　　)颗扣子。

微信公众号 教辅资料站

关注微信公众号“教辅资料站”获取更多学习资料

练习9 商中间有0的除法

用时：____分____秒 错误：　个

A组 常规口算题

802 ÷ 2 =	627 ÷ 3 =	150 ÷ 5 =
309 ÷ 3 =	324 ÷ 4 =	816 ÷ 4 =
84 ÷ 4 =	525 ÷ 5 =	728 ÷ 7 =
603 ÷ 3 =	436 ÷ 4 =	530 ÷ 5 =
432 ÷ 4 =	505 ÷ 5 =	545 ÷ 5 =
804 ÷ 4 =	68 ÷ 4 =	954 ÷ 9 =
927 ÷ 3 =	160 ÷ 5 =	609 ÷ 3 =
624 ÷ 3 =	0 ÷ 9 =	642 ÷ 6 =
85 ÷ 5 =	96 ÷ 6 =	856 ÷ 8 =
812 ÷ 4 =	497 ÷ 7 =	0 ÷ 5 =
0 ÷ 4 =	408 ÷ 2 =	818 ÷ 2 =
515 ÷ 5 =	624 ÷ 6 =	921 ÷ 3 =
57 ÷ 3 =	816 ÷ 2 =	614 ÷ 2 =
636 ÷ 6 =	164 ÷ 4 =	81 ÷ 3 =
400 ÷ 5 =	832 ÷ 4 =	72 ÷ 4 =

B组 变式口算题

我会填。

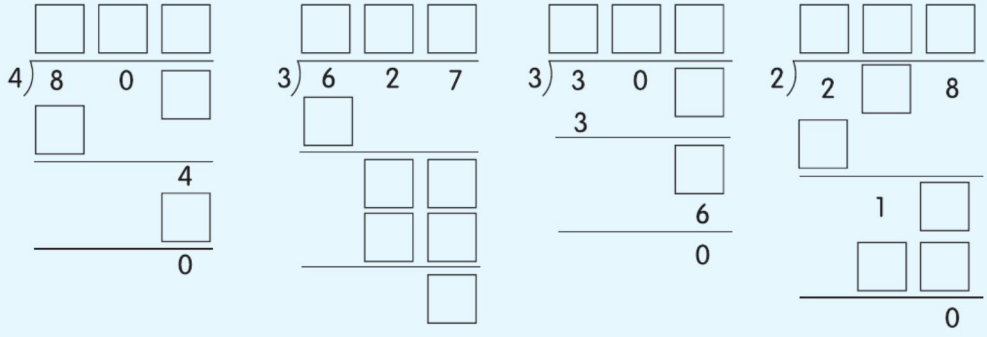

关注微信公众号“教辅资料站”获取更多学习资料

练习10 商末尾有0的除法（一）

用时：____分____秒 错误：　个

A组 常规口算题

360 ÷ 6 =	800 ÷ 4 =	690 ÷ 3 =
500 ÷ 5 =	800 ÷ 5 =	720 ÷ 3 =
457 ÷ 9 =	72 ÷ 6 =	880 ÷ 4 =
42 ÷ 3 =	324 ÷ 8 =	1000 ÷ 4 =
650 ÷ 5 =	630 ÷ 3 =	680 ÷ 2 =
360 ÷ 3 =	910 ÷ 7 =	351 ÷ 5 =
421 ÷ 7 =	820 ÷ 2 =	980 ÷ 2 =
750 ÷ 5 =	94 ÷ 2 =	420 ÷ 3 =
780 ÷ 6 =	85 ÷ 5 =	150 ÷ 3 =
54 ÷ 3 =	560 ÷ 4 =	490 ÷ 7 =
91 ÷ 7 =	620 ÷ 2 =	390 ÷ 3 =
631 ÷ 3 =	440 ÷ 4 =	680 ÷ 4 =
244 ÷ 6 =	960 ÷ 8 =	870 ÷ 3 =
450 ÷ 3 =	547 ÷ 9 =	813 ÷ 9 =
950 ÷ 5 =	637 ÷ 3 =	75 ÷ 3 =
84 ÷ 2 =	840 ÷ 4 =	68 ÷ 4 =

B组 变式口算题

1. 汽车3小时行驶240千米，“和谐号”动车2小时行驶420千米。

（1）汽车每小时行驶(　　)千米，“和谐号”动车每小时行驶(　　)千米。

（2）“和谐号”动车每小时比汽车多行驶(　　)千米。

2. 小华看一本书，打开后左右两页的页码和是81，小华打开的是第(　　)页和第(　　)页。

3. 食堂运进200千克大米，吃了4天后还剩下20千克，平均每天吃(　　)千克大米。

关注微信公众号“教辅资料站”获取更多学习资料

练习 11　商末尾有 0 的除法（二）

用时：____分____秒　错误：　个

A 组　常规口算题

408 ÷ 2 =	327 ÷ 8 =	650 ÷ 5 =
360 ÷ 3 =	735 ÷ 7 =	980 ÷ 7 =
603 ÷ 3 =	820 ÷ 2 =	945 ÷ 9 =
120 ÷ 4 =	624 ÷ 6 =	832 ÷ 4 =
525 ÷ 5 =	455 ÷ 9 =	515 ÷ 5 =
850 ÷ 5 =	381 ÷ 2 =	860 ÷ 2 =
636 ÷ 6 =	804 ÷ 4 =	627 ÷ 3 =
932 ÷ 3 =	810 ÷ 3 =	453 ÷ 9 =
824 ÷ 4 =	309 ÷ 3 =	642 ÷ 6 =
450 ÷ 3 =	545 ÷ 6 =	750 ÷ 5 =
714 ÷ 7 =	416 ÷ 4 =	728 ÷ 7 =
782 ÷ 6 =	600 ÷ 4 =	393 ÷ 3 =
912 ÷ 3 =	505 ÷ 5 =	909 ÷ 9 =
880 ÷ 4 =	364 ÷ 6 =	480 ÷ 4 =
930 ÷ 3 =	900 ÷ 5 =	208 ÷ 2 =

B 组　变式口算题

1. 800 ÷ 4 的商有(　　)个 0，300 ÷ 5 的商有(　　)个 0。

2. 我会填。

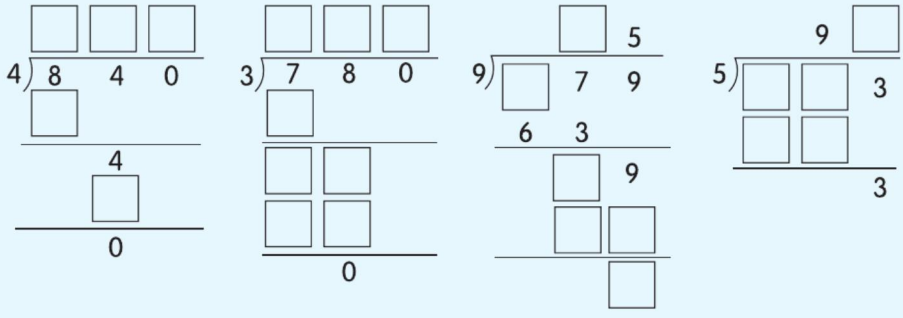

关注微信公众号“教辅资料站”获取更多学习资料

练习 12 估算（一）

用时：____分____秒 错误：　个

A组 常规口算题

406 ÷ 2 =	450 ÷ 3 =	500 ÷ 7 ≈
505 ÷ 5 =	309 ÷ 3 =	178 ÷ 6 ≈
600 ÷ 3 =	535 ÷ 5 =	357 ÷ 5 ≈
150 ÷ 5 =	636 ÷ 6 =	470 ÷ 8 ≈
480 ÷ 4 =	570 ÷ 3 =	128 ÷ 6 ≈
728 ÷ 8 =	412 ÷ 4 =	64 ÷ 6 ≈
900 ÷ 5 =	850 ÷ 5 =	320 ÷ 6 ≈
560 ÷ 8 =	690 ÷ 3 =	537 ÷ 3 ≈
324 ÷ 3 =	800 ÷ 8 =	92 ÷ 3 ≈
420 ÷ 7 =	218 ÷ 2 =	85 ÷ 4 ≈
918 ÷ 9 =	960 ÷ 4 =	367 ÷ 9 ≈
832 ÷ 4 =	327 ÷ 3 =	334 ÷ 7 ≈
880 ÷ 4 =	490 ÷ 7 =	329 ÷ 8 ≈
721 ÷ 7 =	621 ÷ 3 =	370 ÷ 3 ≈
930 ÷ 3 =	600 ÷ 5 =	610 ÷ 9 ≈
642 ÷ 6 =	640 ÷ 2 =	148 ÷ 3 ≈

B组 变式口算题

1. 某餐厅买 5 桶一样重的花生油花了 714 元，每桶花生油大约（　　）元。
2. 育新小学有男教师 9 名，女教师 103 名，女教师的人数大约是男教师的（　　）倍。
3. 奶奶吃 1 瓶 100 片的钙片，每天吃 3 片，这瓶钙片（　　）吃一个月。（填“够”或“不够”）
4. 李老师带领 52 名同学去公园划船，每条船可以坐 5 人，他们至少需要租（　　）条船。

关注微信公众号“教辅资料站”获取更多学习资料

练习13　估算（二）

用时：____分____秒　错误：　个

A组　常规口算题

630 ÷ 3 =
910 ÷ 7 =
880 ÷ 4 =
306 ÷ 3 =
804 ÷ 2 =
900 ÷ 3 =
560 ÷ 7 =
945 ÷ 9 =
530 ÷ 5 =
428 ÷ 4 =
900 ÷ 6 =
480 ÷ 3 =
720 ÷ 4 =
618 ÷ 3 =
404 ÷ 4 =
960 ÷ 6 =
729 ÷ 9 =

560 ÷ 4 =
327 ÷ 3 =
420 ÷ 4 =
980 ÷ 2 =
500 ÷ 2 =
180 ÷ 9 =
312 ÷ 3 =
618 ÷ 2 =
400 ÷ 5 =
836 ÷ 4 =
921 ÷ 3 =
315 ÷ 5 =
416 ÷ 4 =
832 ÷ 4 =
390 ÷ 3 =
850 ÷ 5 =
546 ÷ 6 =

◆ 在○里填“>”“<”或“=”。

464 ÷ 5 ○ 90
537 ÷ 5 ○ 100
324 ÷ 7 ○ 50
80 ○ 551 ÷ 7
40 ○ 390 ÷ 9
267 ÷ 3 ○ 80
424 ÷ 5 ○ 94
304 ÷ 8 ○ 57
86 ○ 400 ÷ 6
97 ○ 500 ÷ 8
30 ○ 700 ÷ 8
487 ÷ 5 ○ 90
300 ÷ 6 ○ 50
88 ○ 200 ÷ 3
45 ○ 350 ÷ 9

B组　变式口算题

1. 估一估，哪个算式的商最接近圈中的数，在其下面画“√”。

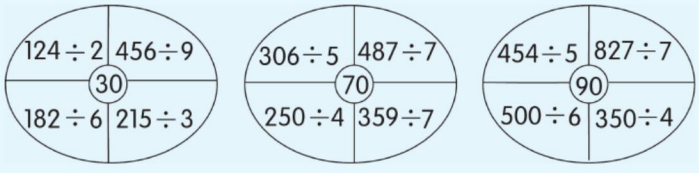

2. 琳琳家距离学校 500 米，琳琳从家出发，步行 7 分钟到达学校，琳琳平均每分钟大约走(　　)米。

关注微信公众号“教辅资料站”获取更多学习资料

第 2 单元口算能力测试

用时：____分____秒　错误：　个

A组 常规口算题

42 ÷ 3 =	96 ÷ 8 =	250 ÷ 5 =
640 ÷ 2 =	428 ÷ 4 =	183 ÷ 6 =
56 ÷ 4 =	420 ÷ 4 =	90 ÷ 6 =
570 ÷ 3 =	84 ÷ 7 =	210 ÷ 2 =
816 ÷ 8 =	318 ÷ 3 =	618 ÷ 3 =
609 ÷ 3 =	927 ÷ 9 =	400 ÷ 8 =
540 ÷ 9 =	55 ÷ 5 =	505 ÷ 5 =
75 ÷ 5 =	804 ÷ 4 =	69 ÷ 3 =
420 ÷ 7 =	728 ÷ 8 =	936 ÷ 9 =
84 ÷ 6 =	530 ÷ 5 =	78 ÷ 6 =
324 ÷ 3 =	48 ÷ 4 =	366 ÷ 9 =
621 ÷ 3 =	848 ÷ 8 =	68 ÷ 2 =
99 ÷ 9 =	848 ÷ 4 =	390 ÷ 3 =
535 ÷ 5 =	80 ÷ 5 =	850 ÷ 5 =
910 ÷ 7 =	436 ÷ 2 =	414 ÷ 2 =
150 ÷ 3 =	608 ÷ 2 =	537 ÷ 5 =

B组 变式口算题

1. 判断。

（1）0 除以任何数都得 0。（　　）

（2）一位数除三位数，商一定是三位数。（　　）

（3）被除数末尾有几个 0，商末尾一定有几个 0。（　　）

2. （1）某校三年级有 3 个班，每个班有 2 个文艺小组，如果每个文艺小组有 15 人，三年级一共有（　　）名同学参加了文艺小组。

（2）某校三年级 3 个班共有 90 人参加了文艺小组，如果每个班有 2 个文艺小组，平均每个文艺小组有（　　）人。

关注微信公众号“教辅资料站”获取更多学习资料

第3单元 复式统计表

练习1 认识复式统计表

用时：____分____秒　错误：　个

A组 常规口算题

350 ÷ 7 =	35 × 4 =	420 ÷ 6 =
484 ÷ 4 =	160 ÷ 5 =	88 ÷ 2 =
560 ÷ 7 =	402 ÷ 2 =	69 ÷ 3 =
728 ÷ 7 =	420 ÷ 4 =	408 ÷ 2 =
960 ÷ 8 =	570 ÷ 3 =	268 ÷ 2 =
400 ÷ 5 =	820 ÷ 2 =	45 × 2 =
13 × 7 =	91 ÷ 7 =	315 ÷ 3 =
52 × 4 =	120 ÷ 5 =	412 ÷ 4 =
98 ÷ 7 =	7000 ÷ 7 =	550 ÷ 5 =
39 ÷ 3 =	48 × 2 =	714 ÷ 7 =
903 ÷ 3 =	530 ÷ 5 =	824 ÷ 4 =
60 × 7 =	927 ÷ 3 =	37 × 3 =
81 × 6 =	840 ÷ 6 =	630 ÷ 7 =
1000 ÷ 5 =	330 × 2 =	560 ÷ 4 =
0 ÷ 9 =	900 × 4 =	88 ÷ 4 =
12 × 7 =	99 ÷ 9 =	65 ÷ 5 =

B组 变式口算题

下面是某校三年级两个班同学每天完成家庭作业所用时间的统计表。

三(1)班同学每天完成家庭作业所用时间统计表

时间	40分钟以下	40～60分钟	60分钟以上
人数	15	21	12

三(2)班同学每天完成家庭作业所用时间统计表

时间	40分钟以下	40～60分钟	60分钟以上
人数	21	17	11

请根据上面的数据填写下表，并回答问题。

人数 / 时间 / 班级	40分钟以下	40～60分钟	60分钟以上
三(1)班			
三(2)班			

1. 三(1)班同学每天完成家庭作业所用时间在“40～60分钟”的有(　　)人。
2. (　　)班同学每天完成家庭作业所用时间在“40分钟以下”的人数较多。

关注微信公众号“教辅资料站”获取更多学习资料

练习2 根据复式统计表回答问题

用时：____分____秒 错误：　个

A组 常规口算题

68 ÷ 4 =
86 ÷ 2 =
150 ÷ 5 =
426 ÷ 6 =
312 ÷ 3 =
92 ÷ 3 ≈
808 ÷ 4 =
351 ÷ 5 ≈
560 ÷ 7 =
520 ÷ 5 =
600 ÷ 4 =
9000 ÷ 3 =
309 ÷ 3 =
426 ÷ 8 ≈
550 ÷ 9 ≈
279 ÷ 9 =
312 ÷ 6 =

305 ÷ 5 =
248 ÷ 4 =
816 ÷ 8 =
490 ÷ 7 =
660 ÷ 2 =
420 ÷ 3 =
980 ÷ 7 =
549 ÷ 9 =
81 ÷ 3 =
94 ÷ 2 =
168 ÷ 4 =
0 ÷ 7 =
188 ÷ 6 ≈
570 ÷ 8 ≈
800 ÷ 5 =
65 ÷ 5 =
87 ÷ 3 =

◆ 在○里填“ >”“ <”或“ =”。

182 ÷ 8 ○ 20
457 ÷ 6 ○ 70
90 ○ 810 ÷ 9
70 ○ 432 ÷ 6
88 ○ 364 ÷ 4
527 ÷ 7 ○ 71
639 ÷ 7 ○ 88
312 ÷ 4 ○ 83
94 ○ 527 ÷ 5
18 ○ 102 ÷ 5
24 ○ 144 ÷ 6
57 ○ 541 ÷ 6
29 ○ 312 ÷ 8
837 ÷ 9 ○ 90
565 ÷ 8 ○ 80

B组 变式口算题

下面是某校三年级各班同学参加课外小组人数的统计表。

人数 / 小组 / 班级	合唱	足球	美术	围棋
三(1)班	11	13	15	6
三(2)班	15	10	3	7
三(3)班	4	12	13	9

1. (　　)班参加合唱小组的人数最多。
2. 美术小组中(　　)班同学最少。
3. 三年级同学中参加(　　)小组的总人数最少。

关注微信公众号“教辅资料站”获取更多学习资料

第3单元口算能力测试

用时：____分____秒　错误：　个

A组 常规口算题

45 ÷5 =	600 ÷4 =	520 ÷4 =
560 ÷8 =	50 ÷2 =	520 ÷5 =
309 ÷3 =	369 ÷3 =	15 ×7 =
249 ÷3 =	549 ÷9 =	24 ×3 =
140 ÷2 =	630 ÷9 =	360 ÷6 =
15 ×6 =	420 ÷2 =	94 ÷2 =
43 ×3 =	88 ÷4 =	85 ÷5 =
355 ÷5 =	14 ×7 =	639 ÷3 =
624 ÷6 =	56 ÷2 =	124 ÷4 =
960 ÷3 =	83 ×2 =	426 ÷2 =
328 ÷4 =	95 ÷5 =	728 ÷8 =
515 ÷5 =	350 ÷7 =	459 ÷9 =
360 ÷3 =	99 ÷9 =	540 ÷6 =
34 ×2 =	654 ÷6 =	312 ÷3 =
600 ×7 =	812 ÷4 =	806 ÷2 =
4500 ÷9 =	810 ÷3 =	19 ×4 =

B组 变式口算题

请你完成统计表并回答问题。

青云小学五年级有4个兴趣小组在活动。

游泳小组



男生8人　女生6人

唱歌小组



男生3人　女生5人

爬山小组



男生3人　女生4人

美术小组



男生4人　女生6人

人数 / 性别 / 组别	男	女
游泳小组		
唱歌小组		
爬山小组		
美术小组		

1. (　　)小组中男生人数最多，(　　)小组中女生人数最少。
2. (　　)小组和(　　)小组中男生人数一样多，都是(　　)人。

关注微信公众号“教辅资料站”获取更多学习资料

第4单元 两位数乘两位数

练习1 口算几百几十乘一位数

用时：____分____秒　错误：　个

A组 常规口算题

12 ×6 =	30 ×6 =	62 ×4 =
120 ×6 =	15 ×4 =	170 ×4 =
15 ×5 =	0 ×45 =	260 ×2 =
150 ×5 =	160 ×3 =	180 ×5 =
23 ×4 =	21 ×5 =	37 ×1 =
230 ×4 =	440 ×2 =	500 ×6 =
34 ×2 =	37 ×2 =	41 ×4 =
340 ×2 =	46 ×2 =	380 ×2 =
43 ×2 =	150 ×3 =	64 ×2 =
430 ×2 =	490 ×2 =	330 ×3 =
17 ×5 =	600 ×3 =	21 ×7 =
170 ×5 =	39 ×2 =	850 ×2 =
26 ×3 =	14 ×6 =	33 ×3 =
260 ×3 =	280 ×3 =	120 ×7 =
47 ×2 =	210 ×4 =	150 ×8 =
470 ×2 =	350 ×2 =	270 ×3 =

B组 变式口算题

1. 填一填。

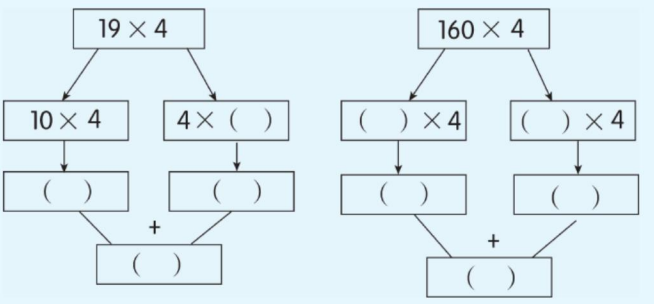

2. 李师傅每天加工 6 个零件，他 2 月份工作了 22 天，共加工(　　)个零件。

关注微信公众号“教辅资料站”获取更多学习资料

练习2 口算两位数乘整十、整百数（一）

用时：____分____秒 错误： 个

A组 常规口算题

8 ×10 =	28 ×20 =	15 ×50 =
12 ×10 =	17 ×10 =	17 ×4 =
14 ×5 =	10 ×9 =	12 ×300 =
31 ×30 =	14 ×30 =	18 ×50 =
14 ×200 =	25 ×3 =	80 ×60 =
81 ×2 =	38 ×20 =	22 ×40 =
67 ×10 =	21 ×400 =	31 ×300 =
32 ×20 =	13 ×20 =	19 ×40 =
32 ×300 =	16 ×5 =	59 ×10 =
81 ×20 =	160 ×5 =	10 ×80 =
33 ×30 =	17 ×40 =	240 ×3 =
40 ×9 =	14 ×60 =	350 ×2 =
24 ×5 =	29 ×3 =	36 ×20 =
72 ×30 =	37 ×100 =	50 ×13 =
53 ×20 =	56 ×20 =	21 ×60 =
45 ×30 =	26 ×30 =	40 ×40 =

B组 变式口算题

1. 某校三年级 9 名教师带领 240 名同学去生态园游玩，该生态园的票价如下：

成人票：10 元/人　　学生票：4 元/人

（1）购买学生票用去（　　）元。

（2）教师买票用去（　　）元。

（3）三年级师生买票共用去（　　）元。

2. 新学期开始，学校购入 120 张新课桌，如果每 2 名同学共用一张课桌，这些课桌够（　　）名同学使用。

关注微信公众号“教辅资料站”获取更多学习资料

练习3 口算两位数乘整十、整百数（二）

用时：___分___秒 错误：　个

A组 常规口算题

39 ×100 =
140 ×5 =
33 ×300 =
14 ×40 =
220 ×4 =
39 ×20 =
530 ×3 =
42 ×20 =
50 ×16 =
38 ×20 =
19 ×50 =
37 ×200 =
190 ×4 =
16 ×400 =
23 ×30 =
470 ×2 =
27 ×50 =

150 ×5 =
32 ×300 =
40 ×150 =
93 ×20 =
570 ×2 =
80 ×70 =
60 ×12 =
83 ×20 =
14 ×500 =
31 ×300 =
120 ×6 =
4 ×310 =
30 ×16 =
5 ×160 =
240 ×4 =
330 ×20 =
640 ×3 =

◆ 在○里填上“ >”“ <”或“ =”。

150 ×3 ○ 90 ×5
72 ×20 ○ 6 ×160
9 ×100 ○ 201 ×4
140 ×5 ○ 303 ×3
247 ×2 ○ 140 ×4
429 ×2 ○ 160 ×5
110 ×6 ○ 300 ×2
94 ×5 ○ 70 ×9
20 ×70 ○ 424 ×2
26 ×30 ○ 78 ×10
45 ×20 ○ 180 ×4
30 ×200 ○ 747 ×9
824 ×6 ○ 25 ×20
124 ×7 ○ 120 ×6
350 ×2 ○ 40 ×20

B组 变式口算题

1. 水果店运来20箱苹果，每箱15千克，每箱售价90元，这些苹果一共有(　　)千克，全部售出，可卖(　　)元。

2. 冷饮店里某种饮料售价每瓶3元，每箱饮料24瓶，每箱可卖(　　)元。冷饮店购进20箱该种饮料，全部售出可卖(　　)元。

3. 蜂鸟是世界上最小的鸟类，南美洲西部最大的巨蜂鸟体重也不过20克，一只鸽子的体重大约是巨蜂鸟的25倍，一只鸽子约重(　　)克。

关注微信公众号“教辅资料站”获取更多学习资料

练习4 不进位的笔算乘法（一）

用时：____分____秒 错误：个

A组 常规口算题

24 ×20 =	26 ×20 =	36 ×20 =
24 ×3 =	35 ×4 =	15 ×70 =
17 ×10 =	2 ×73 =	34 ×20 =
17 ×5 =	42 ×20 =	17 ×4 =
32 ×20 =	33 ×30 =	16 ×3 =
32 ×3 =	42 ×3 =	23 ×20 =
18 ×40 =	65 ×2 =	13 ×40 =
18 ×4 =	77 ×1 =	16 ×5 =
53 ×10 =	87 ×10 =	26 ×30 =
53 ×3 =	53 ×20 =	19 ×40 =
62 ×20 =	47 ×3 =	21 ×50 =
62 ×4 =	51 ×30 =	11 ×60 =
36 ×4 =	39 ×2 =	12 ×80 =
43 ×20 =	42 ×5 =	51 ×3 =
57 ×10 =	75 ×3 =	72 ×30 =
57 ×2 =	61 ×20 =	38 ×2 =

B组 变式口算题

1. 王师傅每小时加工 18 个零件，他 14 个小时可以加工多少个零件？请你在下面的(　　)里填上合适的数。

```
  1 8
×1 4
  7 2 ……工作（　）小时加工（　）个零件
1 8   ……工作（　）小时加工（　）个零件
2 5 2 ……工作（　）小时加工（　）个零件
```

2. 发现规律，巧算得数。

21 ×11 =	22 ×11 =	23 ×11 =
24 ×11 =	25 ×11 =	26 ×11 =

关注微信公众号“教辅资料站”获取更多学习资料

练习5 不进位的笔算乘法（二）

用时：____分____秒 错误：　个

A组 常规口算题

35 ×4 =
24 ×30 =
370 +24 =
540 +56 =
22 ×30 =
52 ×2 =
37 ×20 =
18 ×40 =
380 +19 =
24 ×5 =
26 ×30 =
780 +26 =
32 ×30 =
29 ×3 =
19 ×50 =

18 ×3 =
35 ×20 =
370 +34 =
32 ×4 =
23 ×4 =
57 +320 =
960 +32 =
350 +56 =
26 ×1 =
57 ×2 =
23 ×30 =
580 +39 =
920 +140 =
850 +17 =
35 ×200 =

◆ 在○里填上“ >”“ <”或“ =”。

34 ×22 ○ 600
55 ×11 ○ 550
460 ○ 23 ×20
570 ○ 31 ×12
737 ○ 22 ×41
45 ×20 ○ 700
44 ×21 ○ 1000
83 ×11 ○ 830
23 ×32 ○ 600
25 ×30 ○ 700
42 ×5 ○ 220
1500 ○ 278 ×5
66 ×30 ○ 2000
810 ○ 410 ×2

B组 变式口算题

1. 填一填。

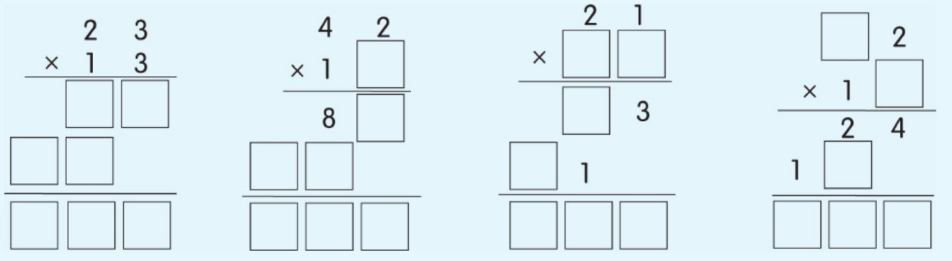

2. 童装店上午卖出 20 套童装，下午卖出 3 套，该童装店全天共卖出(　　)套童装，如果每套童装卖 30 元，该童装店全天一共卖了(　　)元。

关注微信公众号“教辅资料站”获取更多学习资料

练习6 进位的笔算乘法（一）

用时：____分____秒 错误：　个

A组 常规口算题

34 ×2 =	63 ×20 =	43 ×20 =
44 ×20 =	15 ×50 =	51 ×10 =
35 ×20 =	31 ×30 =	39 ×2 =
19 ×40 =	34 ×20 =	46 ×20 =
27 ×3 =	94 ×2 =	17 ×5 =
21 ×40 =	18 ×40 =	83 ×2 =
15 ×60 =	24 ×11 =	47 ×20 =
12 ×11 =	12 ×70 =	42 ×30 =
16 ×50 =	26 ×3 =	14 ×70 =
37 ×20 =	87 ×10 =	16 ×40 =
14 ×60 =	33 ×20 =	21 ×30 =
38 ×2 =	16 ×60 =	25 ×4 =
91 ×3 =	18 ×50 =	36 ×20 =
52 ×30 =	95 ×2 =	46 ×10 =
13 ×40 =	71 ×2 =	24 ×30 =

B组 变式口算题

1. 填一填。

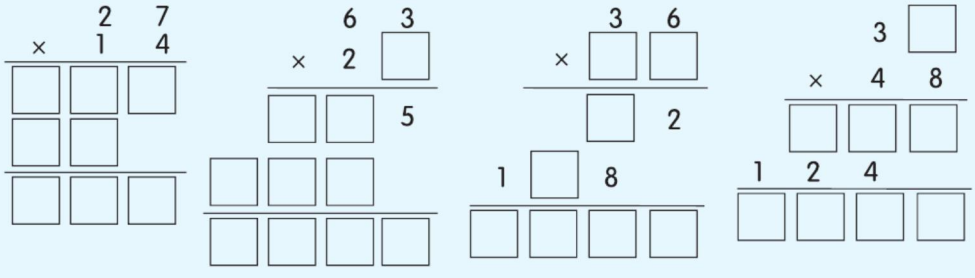

2. 一本书有360页，如果每天读20页，两周(　　)(填“能”或“不能”)读完；如果每天读40页，(　　)天能读完。

关注微信公众号“教辅资料站”获取更多学习资料

练习7 进位的笔算乘法（二）

用时：____分____秒 错误：　个

A组 常规口算题

35 ×40 =	45 ×20 =	13 ×11 =
35 ×2 =	19 ×3 =	15 ×20 =
23 ×30 =	24 ×40 =	13 ×40 =
32 ×3 =	47 ×3 =	27 ×3 =
58 ×2 =	36 ×20 =	22 ×4 =
18 ×40 =	31 ×50 =	32 ×30 =
19 ×50 =	43 ×2 =	45 ×3 =
15 ×60 =	73 ×3 =	11 ×40 =
26 ×50 =	31 ×40 =	24 ×30 =
92 ×3 =	25 ×30 =	24 ×4 =
47 ×20 =	89 ×2 =	36 ×30 =
39 ×20 =	17 ×50 =	19 ×20 =
16 ×40 =	15 ×40 =	22 ×30 =
12 ×40 =	56 ×2 =	23 ×4 =
96 ×10 =	49 ×20 =	36 ×3 =
27 ×30 =	21 ×40 =	51 ×20 =

B组 变式口算题

1. 一份文件有 21 行，每行有 28 个字，这份文件大约有(　　)个字。

2. 25 ×40 的积有(　　)个 0。

3. 两位数乘两位数，积可能是(　　)位数，也可能是(　　)位数。

4. 两个乘数都是 15，它们的积是(　　)。

5. 400 的 5 倍是(　　)，400 是(　　)的 5 倍。

6. 某学校开展“读书日”活动，准备为每个班买 12 本故事书。该学校一共有 28 个班，一共要买(　　)本故事书。

关注微信公众号“教辅资料站”获取更多学习资料

练习8 乘法两步计算解决问题（一）

用时：____分____秒 错误：　个

A组 常规口算题

17×40=	49×2=	20×2×4=
29×30=	37×20=	30×4×50=
53×2=	14×50=	34×20−54=
68×10=	41×3=	30×20×3=
33×30=	39×20=	15×2×80=
17×20=	51×3=	21×30−30=
53×3=	15×50=	35×20+100=
11×12=	16×60=	42×20+50=
24×40=	12×12=	120×5−150=
19×50=	34×20=	37×20−40=
99×10=	43×3=	300−15×10=
48×2=	18×40=	520+90×6=
65×2=	17×30=	318−25×4=
13×60=	27×30=	(47−12)×4=
22×40=	50×12=	59×(20×5)=
31×30=	40×11=	38+12×3=

B组 变式口算题

1. 三(2)班同学成立了“流动书屋”，平均每名同学捐6本书，全班50名同学共捐(　　)本书。
2. “假日花园”小区共有24栋楼，每栋楼有5个单元，每个单元有12户，“假日花园”小区一共有(　　)户。
3. 丽丽家距离学校450米，她每天上学、放学走两个来回，丽丽一周(按5天计算)上学、放学共走(　　)米的路程。

关注微信公众号“教辅资料站”获取更多学习资料

练习9 乘法两步计算解决问题（二）

用时：____分____秒 错误：　个

A组 常规口算题

42 ×2 =	85 ×2 =	12 ×5 ×20 =
12 ×30 =	37 ×20 =	30 ×4 ×2 =
35 ×20 =	21 ×5 =	(65 −15) ×13 =
45 ×2 =	39 ×20 =	42 +21 ×3 =
45 ×10 =	57 ×3 =	(37 +11) ×20 =
41 ×3 =	19 ×40 =	54 ×(5 ×2) =
14 ×40 =	18 ×50 =	39 ×(4 ×5) =
23 ×30 =	21 ×30 =	51 −12 ×3 =
32 ×40 =	39 ×10 =	68 −11 ×5 =
16 ×50 =	47 ×2 =	39 ×2 ×10 =
51 ×3 =	13 ×40 =	14 ×5 ×30 =
39 ×2 =	12 ×70 =	31 ×(15 ×2) =
25 ×30 =	11 ×9 =	19 ×(15 +15) =
35 ×4 =	14 ×70 =	12 ×(80 ×5) =
17 ×3 =	13 ×60 =	34 ×(44 −24) =
16 ×40 =	74 ×5 =	16 ×5 ×20 =

B组 变式口算题

1. “青年新城”小区的一栋楼有5个单元，每个单元有16层，每层有4户。

(1)每个单元有(　　)户，5个单元有(　　)户。

(2)一栋楼一层有(　　)户，16层有(　　)户。

2. 小丽要抄一篇850字的作文，如果用每页22行，每行20个格子的作文纸来抄，2页作文纸(　　)抄下。(填“能”或“不能”)

3. 超市一周卖出20箱纯牛奶，每箱纯牛奶售价35元，照这样计算，超市两周卖纯牛奶收入(　　)元。

关注微信公众号“教辅资料站”获取更多学习资料

练习10 除法两步计算解决问题（一）

用时：____分____秒 错误：　个

A组 常规口算题

31×4=	15×4×30=	240÷6÷4=
25×40=	25×40×3=	360÷(2×3)=
17×30=	13×5×10=	450÷3÷3=
24×40=	24×(5×4)=	240÷(2×2)=
37×2=	37×(25×4)=	350÷7÷2=
55×3=	31×(6×5)=	420÷6÷7=
43×20=	42×5×20=	640÷(4×2)=
17×50=	12×5×40=	248÷4÷2=
23×40=	40×5×7=	369÷(3×3)=
49×2=	360×2×10=	360÷(2×3)=
27×30=	16×5×30=	490÷7÷5=
31×60=	14×3×2=	120÷4÷5=
92×2=	5×4×39=	350÷(7×1)=
64×20=	20×3×4=	810÷(3×3)=
42×40=	17×(2×20)=	540÷9÷4=
35×3=	24×5×40=	480÷(2×4)=

B组 变式口算题

1. 一种饼干，8包装一盒，8盒装一箱，640包饼干可以装满(　　)箱。

2. 3头大象一星期吃6300千克食物，平均每头大象每天吃(　　)千克食物。

3. 204张照片，正好放满2本同样的相册，如果每页相册可放6张照片，那么每本相册有(　　)页。

4. 小白兔有316个萝卜，给了小灰兔100个，剩下的平均放在8个篮子里，每个篮子里放(　　)个。

关注微信公众号“教辅资料站”获取更多学习资料

练习 11 除法两步计算解决问题（二）

用时：____分____秒 错误：　个

A组 常规口算题

27 ×30 =	85 ×2 =	560 ÷8 −34 =
27 ×5 =	33 ×30 =	280 +35 ×20 =
40 ×13 =	45 ×20 =	15 ×4 ×30 =
12 ×80 =	53 ×3 =	25 ×4 ×5 =
51 ×40 =	67 ×2 =	37 +540 ÷6 =
39 ×2 =	84 ×20 =	42 ×5 ÷7 =
26 ×4 =	71 ×40 =	34 ×2 −51 =
23 ×30 =	52 ×10 =	74 ×（5 ×4） =
51 ×20 =	13 ×60 =	（16 +14） ×30 =
48 ×10 =	24 ×30 =	540 ÷9 ÷2 =
78 ×20 =	40 ×15 =	360 ÷（3 ×2） =
19 ×40 =	50 ×14 =	490 ÷7 ÷7 =
11 ×70 =	22 ×20 =	630 ÷（3 ×3） =
16 ×80 =	56 ×0 =	546 ÷6 +10 =
25 ×40 =	43 ×30 =	366 ÷3 −14 =
99 ×2 =	32 ×40 =	12 ×50 ÷3 =

B组 变式口算题

1. 奶奶吃一瓶 60 粒的葡萄籽胶囊，早晚各一次，一次吃 2 粒。

（1）这瓶葡萄籽胶囊一共可以吃（　　）次，可以吃（　　）天。

（2）奶奶每天吃（　　）粒葡萄籽胶囊，这瓶葡萄籽胶囊可以吃（　　）天。

2. 三年级 2 个班有 60 名同学参加了绘画小组，如果每个班有 2 个绘画小组，平均每个绘画小组有（　　）人。

3. 3 位老师带领 105 名同学去参加夏令营活动，晚上搭帐篷住，如果每顶帐篷最多能住 6 人，至少要搭（　　）顶帐篷。

关注微信公众号“教辅资料站”获取更多学习资料

第4单元口算能力测试

用时：____分____秒　错误：　个

A组 常规口算题

14 ×50 =	72 ×20 =	480 ÷8 ÷2 =
190 ×2 =	24 ×30 =	540 ÷(2 ×3) =
13 ×60 =	16 ×50 =	30 ×5 ×4 =
17 ×40 =	160 ×4 =	25 ×4 ×37 =
60 ×90 =	42 ×30 =	49 +12 ×3 =
24 ×5 =	47 ×3 =	540 −12 ×30 =
25 ×40 =	27 ×30 =	36 ×2 ÷9 =
16 ×60 =	18 ×5 =	(55 −15) ×12 =
37 ×4 =	44 ×20 =	420 ÷(58 −51) =
71 ×20 =	42 ×4 =	44 +150 ×3 =
17 ×30 =	63 ×30 =	510 −16 ×30 =
18 ×40 =	35 ×4 =	428 +375 ×0 =
29 ×20 =	13 ×11 =	64 +24 ×5 =
53 ×2 =	95 ×2 =	25 ×4 −37 =
33 ×30 =	50 ×40 =	210 ÷7 ÷2 =
11 ×11 =	15 ×50 =	12 ×5 ×13 =

B组 变式口算题

1. 判断。

(1)0 和任何数相乘都得 0。（　　）

(2)31 乘 69 的积大约是 2100。（　　）

(3)50 ×60 的积有 2 个 0。（　　）

(4)两位数乘两位数，积一定是三位数。（　　）

2. 小朋家距离学校 210 米，他从家走到学校用时 3 分钟，照这样的速度，他从家走到图书馆用时 12 分钟，他家距离图书馆(　　)米。

关注微信公众号“教辅资料站”获取更多学习资料

第5单元 面积

练习1 面积的意义

用时：____分____秒　错误：　个

A组 常规口算题

18 ×40 =	54 ×20 =	25 ×30 =
20 ×32 =	15 ×11 =	16 ×50 =
17 ×60 =	55 ×2 =	8 ×12 =
48 ×20 =	39 ×20 =	14 ×12 =
75 ×2 =	42 ×30 =	19 ×40 =
83 ×3 =	63 ×20 =	39 ×5 =
11 ×90 =	96 ×2 =	42 ×6 =
12 ×80 =	84 ×20 =	41 ×70 =
25 ×40 =	55 ×4 =	33 ×20 =
25 ×20 =	61 ×5 =	15 ×60 =
33 ×30 =	39 ×10 =	18 ×30 =
47 ×2 =	58 ×20 =	17 ×20 =
53 ×30 =	10 ×33 =	23 ×30 =
62 ×2 =	81 ×4 =	44 ×2 =
77 ×2 =	13 ×70 =	75 ×3 =
64 ×20 =	14 ×60 =	81 ×5 =

B组 变式口算题

1. 作业本(　　)的大小就是作业本封面的面积，国旗的面积是指(　　)。

2. 数一数下面每个图形的面积。

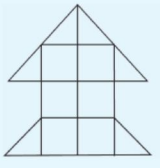

_____个□

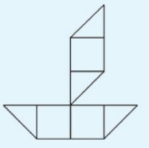

_____个□

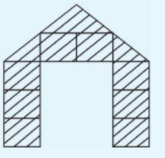

_____个▨

关注微信公众号“教辅资料站”获取更多学习资料

练习2 面积单位

用时：____分____秒 错误：　个

A组 常规口算题

240 ÷ 3 =	420 ÷ 7 =	◆ 在(　　)里填上合适的单位名称。
56 + 7 =	120 × 6 =	计算机屏幕的面积大约是16(　　)。
300 − 70 =	324 ÷ 4 =	教室地面面积是58(　　)。
8 × 300 =	560 + 120 =	一枚邮票面积是4(　　)。
12 × 80 =	370 − 230 =	一块手帕面积是4(　　)。
150 × 3 =	497 × 0 =	一块黑板面积是4(　　)。
450 + 130 =	52 × 20 =	学校操场跑道长400(　　)。
980 − 470 =	17 × 40 =	小明身高128(　　)。
804 ÷ 4 =	140 × 6 =	小丽腰围6(　　)。
560 ÷ 7 =	480 ÷ 6 =	计算机键盘中数字键面积是1(　　)。
145 − 40 =	90 + 510 =	一张100元人民币的面积约是120(　　)。
198 × 7≈	37 × 41≈	一根跳绳长2(　　)。
325 ÷ 4≈	420 ÷ 4≈	一个果园长600(　　)。
39 × 42≈	424 × 5≈	数学书厚11(　　)。
197 + 401≈	524 − 405≈	课桌面的面积是32(　　)。
624 − 199≈	313 + 185≈	足球场占地7200(　　)。
717 − 297≈	591 ÷ 3≈	教室窗户长15(　　)。

B组 变式口算题

用4个1平方厘米的正方形拼成如下图形，求每个图形的面积和周长。

1. 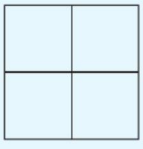

面积：(　　)平方厘米
周长：(　　)厘米

2. 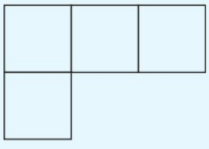

面积：(　　)平方厘米
周长：(　　)厘米

3. 

面积：(　　)平方厘米
周长：(　　)厘米

关注微信公众号“教辅资料站”获取更多学习资料

练习3 长方形面积计算

用时：____分____秒 错误：　个

A组 常规口算题

13 ×20 =	16 ×40 =
960 ÷60 =	840 ÷8 =
102 ÷3 =	205 ÷5 =
31 ×30 =	19 ×50 =
45 ×30 =	23 ×40 =
324 ÷4 =	524 ÷2 =
540 ÷3 =	603 ÷3 =
25 ×40 =	204 ×7 =
19 ×20 =	63 ×40 =
300 ÷5 =	17 ×50 =
12 ×20 =	200 ÷4 =
960 ÷8 =	600 ÷4 =
18 ×20 =	62 ×50 =
480 ÷4 =	420 ÷3 =
30 ×40 =	52 ×40 =
245 ÷5 =	324 ÷3 =

◆ 求下面长方形的面积。

长 =15 分米，宽 =3 分米，

面积 =(　　)平方分米；

长 =30 厘米，宽 =15 厘米，

面积 =(　　)平方厘米；

长 =6 米，宽 =4 米，

面积 =(　　)平方米；

长 =1 米，宽 =7 分米，

面积 =(　　)平方分米；

长 =5 分米，宽 =4 分米，

面积 =(　　)平方分米；

长 =24 厘米，宽 =20 厘米，

面积 =(　　)平方厘米；

长 =16 厘米，宽 =10 厘米，

面积 =(　　)平方厘米；

长 =6 米，宽 =5 分米，

面积 =(　　)平方分米。

B组 变式口算题

1. 长方形的面积 =(　　)，长方形的周长 =(　　)。
2. 同学们制作的数学手抄报长 55 厘米，宽 40 厘米，它的面积是(　　)平方厘米。
3. 铺 1 平方米草坪需要 5 元，现在要为一块长 45 米，宽 20 米的长方形空地铺上草坪，需要花(　　)元。
4. 一个房间的地面的长是 15 米，宽是 8 米，它的面积是(　　)平方米。
5. 校园里有一面长方形的墙，它的长是 9 米，宽是 5 米，墙上有一块面积是 4 平方米的黑板，现在要粉刷这面墙，要粉刷的面积是(　　)平方米。

关注微信公众号“教辅资料站”获取更多学习资料

练习4 正方形面积计算

用时：____分____秒 错误：　个

A组 常规口算题

40 × 5 =	320 ÷ 4 =	◆ 求下列正方形的面积或周长。
98 ÷ 7 =	420 ÷ 6 =	边长为 8 米，面积 =（　　）平方米；
804 ÷ 2 =	130 × 5 =	边长为 10 厘米，面积 =（　　）平方厘米；
42 × 3 =	81 × 4 =	边长为 5 米，面积 =（　　）平方米；
45 ÷ 3 =	360 ÷ 3 =	边长为 4 厘米，周长 =（　　）厘米；
540 ÷ 6 =	480 ÷ 3 =	边长为 4 厘米，面积 =（　　）平方厘米；
92 × 2 =	520 ÷ 5 =	边长为 15 分米，周长 =（　　）分米；
24 × 4 =	37 × 2 =	边长为 9 分米，面积 =（　　）平方分米；
48 × 2 =	310 × 3 =	边长为 20 厘米，面积 =（　　）平方厘米；
459 ÷ 9 =	324 ÷ 3 =	边长为 7 米，周长 =（　　）米；
168 ÷ 4 =	35 × 4 =	边长为 6 分米，面积 =（　　）平方分米；
140 × 3 =	121 × 4 =	边长为 11 米，面积 =（　　）平方米；
340 × 2 =	57 × 3 =	边长为 25 厘米，周长 =（　　）厘米；
82 × 2 =	63 ÷ 3 =	边长为 30 分米，面积 =（　　）平方分米；
55 × 20 =	25 × 4 =	边长为 50 米，周长 =（　　）米；
86 ÷ 2 =	450 ÷ 3 =	边长为 23 厘米，周长 =（　　）厘米。

B组 变式口算题

1. 边长是 80 厘米的方砖的面积是（　　）平方厘米。
2. 一块正方形草坪的边长是 4 米，它的面积是（　　），周长是（　　）。
3. 花园内有一块正方形草坪，它的周长是 36 米，它的面积是（　　）平方米。
4. 一个正方形鱼池，占地面积是 25 平方米，这个鱼池的周长是（　　）米。
5. 张奶奶家有一块正方形菜地，一面靠墙（如右图所示）。把这块菜地围上栅栏，靠墙一面不围，围好后量得木栅栏一共长 60 米。这块菜地的面积是（　　）平方米。

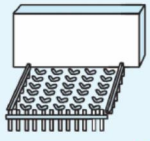

关注微信公众号“教辅资料站”获取更多学习资料

练习5 长方形、正方形面积计算习题课

用时：____分____秒 错误：　个

A组 常规口算题

23 ×40 =	◆ 求下列长方形的周长或面积。	◆ 求下列正方形的周长或面积。
306 ×2 =	长 =15 米，宽 =4 米，	边长 =7 米，
640 ÷2 =	面积 =（　　）平方米；	面积 =（　　）平方米；
310 ÷5 =	长 =12 厘米，宽 =10 厘米，	边长 =10 厘米，
280 ÷4 =	面积 =（　　）平方厘米；	面积 =（　　）平方厘米；
735 ÷7 =	长 =40 米，宽 =35 米，	边长 =24 分米，
62 ×4 =	周长 =（　　）米；	周长 =（　　）分米；
750 ÷6 =	长 =12 分米，宽 =1 米，	边长 =11 米，
26 ×70 =	面积 =（　　）平方分米；	周长 =（　　）米；
205 ×3 =	长 =9 厘米，宽 =4 厘米，	边长 =9 米，
308 ÷4 =	周长 =（　　）厘米；	面积 =（　　）平方米；
37 ×20 =	长 =24 分米，宽 =1 米，	边长 =8 分米，
45 ×40 =	面积 =（　　）平方分米；	面积 =（　　）平方分米；
304 ÷8 =	长 =6 米，宽 =3 分米，	边长 =20 厘米，
280 ÷7 =	周长 =（　　）分米；	面积 =（　　）平方厘米；
500 ÷2 =	长 =12 厘米，宽 =8 厘米，	边长 =21 分米，
51 ×50 =	面积 =（　　）平方厘米。	周长 =（　　）分米。

B组 变式口算题

填一填。

		长	宽	周长	面积
长方形		10 分米	5 分米		
		12 厘米		40 厘米	
			5 米		50 平方米
正方形	边长		6 米		
				40 厘米	
					64 平方分米

关注微信公众号“教辅资料站”获取更多学习资料

练习6 面积单位间的进率（一）

用时：____分____秒 错误：个

A组 常规口算题

3 平方米 =（ ）平方分米
1 平方分米 =（ ）平方厘米
6 平方分米 =（ ）平方厘米
400 平方厘米 =（ ）平方分米
300 平方分米 =（ ）平方米
600 平方分米 =（ ）平方米
（ ）平方分米 =4 平方米
7 平方米 =（ ）平方分米
（ ）平方分米 =300 平方厘米
8 平方米 =（ ）平方分米
200 平方分米 =（ ）平方米
（ ）平方厘米 =9 平方分米
30 平方米 =（ ）平方分米
（ ）平方分米 =1100 平方厘米
（ ）平方厘米 =7 平方分米
40 平方分米 =（ ）平方厘米
（ ）平方分米 =600 平方厘米
15 平方分米 =（ ）平方厘米
1 平方米 =（ ）平方分米
100 平方分米 =（ ）平方米
200 平方厘米 =（ ）平方分米
（ ）平方分米 =37 平方米
（ ）平方米 =700 平方分米
（ ）平方分米 =900 平方厘米
（ ）平方分米 =5 平方米
21 平方米 =（ ）平方分米
（ ）平方厘米 =12 平方分米
（ ）平方分米 =9 平方米
（ ）平方分米 =50 平方米
（ ）平方厘米 =8 平方分米
14 平方分米 =（ ）平方厘米
34 平方米 =（ ）平方分米

B组 变式口算题

1. 一张长方形桌子长 2 米，宽 5 分米，这张长方形桌子的面积是（ ）平方分米，合（ ）平方米。
2. 公园里有形状为长方形和正方形的两种花圃，已知它们的周长相等，长方形花圃长 32 分米，宽 8 分米，长方形花圃的面积是（ ）平方分米，正方形花圃的边长是（ ）分米，面积是（ ）平方分米，合（ ）平方米。
3. 一个长方形广告牌的面积是 600 平方分米，长是 3 米，它的宽是（ ）米，周长是（ ）米。

关注微信公众号“教辅资料站”获取更多学习资料

练习7 面积单位间的进率（二）

用时：____分____秒 错误：　个

A组 常规口算题

5 平方分米 =（　　）平方厘米　　600 平方厘米 =（　　）平方分米

4 平方米 =（　　）平方分米　　1 平方米 =（　　）平方分米

700 平方厘米 =（　　）平方分米　　10 平方分米 =（　　）平方厘米

（　　）平方厘米 =3 平方分米　　2 平方米 =（　　）平方分米

（　　）平方分米 =1400 平方厘米　　（　　）平方分米 =1700 平方厘米

23 平方米 =（　　）平方分米　　4300 平方厘米 =（　　）平方分米

2000 平方分米 =（　　）平方米　　900 平方分米 =（　　）平方米

42 平方分米 =（　　）平方厘米　　（　　）平方分米 =3 平方米

（　　）平方分米 =9 平方米　　（　　）平方分米 =600 平方厘米

（　　）平方分米 =700 平方厘米　　8 平方米 =（　　）平方分米

1200 平方分米 =（　　）平方米　　22 平方分米 =（　　）平方厘米

4 平方分米 =（　　）平方厘米　　3500 平方厘米 =（　　）平方分米

600 平方分米 =（　　）平方米　　1000 平方厘米 =（　　）平方分米

77 平方米 =（　　）平方分米　　800 平方厘米 =（　　）平方分米

（　　）平方分米 =100 平方厘米　　200 平方分米 =（　　）平方米

25 平方米 =（　　）平方分米　　30 平方分米 =（　　）平方厘米

B组 变式口算题

1. 一个长方形餐桌桌面长 90 厘米，宽 50 厘米，妈妈在餐桌上铺了一块透明玻璃纤维板，这块透明玻璃纤维板的面积是（　　）平方厘米，合（　　）平方分米。

2. 有两个完全一样的长方形，长 40 厘米，宽 20 厘米。

（1）用这两个长方形拼成一个大长方形，拼成的大长方形的面积是（　　）平方分米，周长是（　　）厘米。

（2）用这两个长方形拼成一个正方形，正方形的面积是（　　）平方分米，周长是（　　）厘米。

关注微信公众号“教辅资料站”获取更多学习资料

练习8 用方砖铺地面

用时：____分____秒 错误：　个

A组 常规口算题

4800 ÷ 6 =　　37 × 20 =
750 ÷ 5 =　　61 × 30 =
13 × 70 =　　150 × 2 =
150 × 4 =　　366 ÷ 6 =
23 × 40 =　　848 ÷ 8 =
35 × 3 =　　3500 ÷ 7 =
408 ÷ 2 =　　640 ÷ 4 =
360 ÷ 3 =　　420 ÷ 4 =
396 ÷ 3 =　　324 ÷ 3 =
488 ÷ 4 =　　62 × 4 =
51 × 5 =　　170 × 3 =
140 × 6 =　　240 × 4 =
34 × 20 =　　120 × 8 =
53 × 30 =　　357 × 0 =
160 × 4 =　　305 ÷ 5 =
420 × 4 =　　0 ÷ 4 =

◆ 求下面长方形或正方形的面积。

边长 =5 米，
面积 =(　　)平方米；
长 =10 米，宽 =7 米，
面积 =(　　)平方米；
长 =12 分米，宽 =1 米，
面积 =(　　)平方分米；
边长 =9 分米，
面积 =(　　)平方分米；
边长 =11 米，
面积 =(　　)平方米；
长 =5 米，宽 =45 分米，
面积 =(　　)平方分米；
长 =1 米，宽 =70 厘米，
面积 =(　　)平方分米；
边长 =4 厘米，
面积 =(　　)平方厘米。

B组 变式口算题

1. 一个长方形游泳池，长 60 米，宽 30 米，要在池底铺上边长为 3 分米的方砖，需要铺(　　)块。
2. 淘气家客厅的形状是边长为 16 米的正方形，如果要在客厅铺上面积为 4 平方分米的正方形地砖，要铺(　　)块。
3. 从一个长 10 分米，宽 7 分米的长方形中剪下一个最大的正方形，剪下的正方形的面积是(　　)平方分米，剩下部分的面积是(　　)平方分米。

关注微信公众号“教辅资料站”获取更多学习资料

第5单元口算能力测试

用时：____分____秒　错误：　个

A组 常规口算题

26 ×50 =	◆ 求下面长方形的面积。	◆ 求下面正方形的面积。
13 ×60 =	长 =5 米，宽 =4 米，	边长 =4 米，
43 ×8 =	面积 =（　　）平方米；	面积 =（　　）平方米；
21 ×9 =	长 =14 分米，宽 =11 分米，	边长 =20 分米，
147 ÷7 =	面积 =（　　）平方分米；	面积 =（　　）平方米；
13 ×40 =	长 =9 厘米，宽 =6 厘米，	边长 =40 厘米，
560 ÷4 =	面积 =（　　）平方厘米；	面积 =（　　）平方分米；
14 ×70 =	长 =1 米，宽 =8 分米，	边长 =9 厘米，
60 ×51 =	面积 =（　　）平方分米；	面积 =（　　）平方厘米；
160 ÷8 =	长 =42 分米，宽 =2 米，	边长 =50 厘米，
303 ÷3 =	面积 =（　　）平方分米；	面积 =（　　）平方分米；
247 ×2 =	长 =55 厘米，宽 =3 分米，	边长 =3 分米，
900 ÷5 =	面积 =（　　）平方厘米；	面积 =（　　）平方分米；
23 ×40 =	长 =11 厘米，宽 =7 厘米，	边长 =2 米，
92 ×2 =	面积 =（　　）平方厘米；	面积 =（　　）平方米；
20 ×64 =	长 =6 米，宽 =5 分米，	边长 =8 厘米，
42 ×40 =	面积 =（　　）平方分米。	面积 =（　　）平方厘米。

B组 变式口算题

我是小法官。

1. 边长为4分米的正方形，它的面积是16平方米。（　　）
2. 某长方形的长是8分米，宽是5分米，如果长减少3分米，它就成了一个正方形。（　　）
3. 把一个正方形平均分成2个小长方形，每个小长方形的周长和面积都是正方形的一半。（　　）
4. 边长为4厘米的正方形，周长与面积相等。（　　）
5. 周长大的图形，面积就一定大。（　　）
6. 如果长方形与正方形的周长相等，那么它们的面积也一定相等。（　　）

关注微信公众号“教辅资料站”获取更多学习资料

第6单元 年、月、日

练习1 年、月、日的认识（一）

用时：____分____秒　错误：　个

A组 常规口算题

450 ÷ 5 =	150 × 4 =	16 × 5 =
130 × 2 =	648 ÷ 6 =	88 ÷ 4 =
232 × 3 =	72 ÷ 4 =	390 ÷ 3 =
36 × 20 =	17 × 40 =	21 × 30 =
357 ÷ 7 =	800 ÷ 2 =	270 × 2 =
91 ÷ 7 =	110 × 9 =	180 × 5 =
488 ÷ 8 =	92 ÷ 2 =	78 ÷ 6 =
53 × 30 =	430 × 3 =	630 ÷ 7 =
65 ÷ 5 =	520 ÷ 5 =	36 × 30 =
320 × 3 =	18 × 50 =	963 ÷ 3 =
48 × 20 =	81 ÷ 9 =	630 ÷ 6 =
540 ÷ 6 =	570 × 2 =	355 ÷ 5 =
306 ÷ 3 =	936 ÷ 9 =	190 × 4 =
96 ÷ 4 =	22 × 10 =	246 ÷ 3 =
13 × 12 =	340 × 2 =	515 ÷ 5 =
981 ÷ 9 =	868 ÷ 2 =	400 × 5 =

B组 变式口算题

1. 一年有(　　)个月，有 31 天的月份是(　　)，这些月份是(　　)月，有 30 天的月份是(　　)，这些月份是(　　)月。

2. 某学校从 1 月 18 日开始放寒假，2 月 15 日开学报到，这个假期共有(　　)天。

3. 一本书佳佳要看 18 天，她从 6 月 18 日开始看，(　　)月(　　)日能看完。

4. 8 月份有(　　)个星期零(　　)天。

关注微信公众号“教辅资料站”获取更多学习资料

练习2 年、月、日的认识（二）

用时：____分____秒 错误：　个

A组 常规口算题

20 ×5 =	170 ×3 =	408 ÷8 =
480 ÷3 =	40 ×22 =	26 ×30 =
72 ÷6 =	55 ÷5 =	110 ×9 =
540 ÷9 =	510 ×3 =	160 ×5 =
150 ×4 =	408 ÷4 =	51 ÷3 =
230 ×3 =	52 ×30 =	612 ÷3 =
313 ×2 =	190 ×4 =	43 ×20 =
150 ×6 =	369 ÷3 =	250 ×4 =
92 ×30 =	94 ÷2 =	24 ×40 =
19 ×5 =	248 ÷8 =	98 ÷7 =
60 ÷4 =	14 ×7 =	810 ÷3 =
357 ÷7 =	530 ÷5 =	87 ÷3 =
37 ×50 =	642 ÷6 =	330 ×3 =
806 ÷2 =	370 ×2 =	490 ÷7 =
420 ÷4 =	410 ×4 =	123 ÷3 =
84 ÷2 =	13 ×60 =	92 ×30 =

B组 变式口算题

1. 判断。

(1)第三季度共有 90 天。（　　）

(2)一年有 6 个大月，6 个小月。（　　）

(3)明明的爸爸出差了，4 月 31 日才能回来。（　　）

2. 丽丽 2014 年出生，她今年(　　)岁了，亮亮今年 12 岁，他是(　　)年出生的。

3. 中国人民共和国是(　　)年 10 月 1 日成立的，2019 年 10 月 1 日是中华人民共和国成立(　　)周年的纪念日。

关注微信公众号“教辅资料站”获取更多学习资料

练习3 平年、闰年的认识

用时：____分____秒 错误： 个

A组 常规口算题

50 +790 =	420 ÷3 =	◆ 判断下面的年份是平年还是闰年。
800 ÷4 =	37 ×20 =	
350 ÷5 =	408 ÷8 =	2004 年(　　)
120 ×7 =	33 ×30 =	1992 年(　　)
250 ×3 =	40 ×50 =	1900 年(　　)
66 ÷2 =	39 +24 =	2008 年(　　)
416 ÷4 =	940 −470 =	1932 年(　　)
357 ÷7 =	58 −27 =	1800 年(　　)
218 ÷2 =	123 ×3 =	2000 年(　　)
160 ×5 =	47 ×51≈	2003 年(　　)
14 ×7 =	196 ÷5≈	2014 年(　　)
31 ×5 =	371 ×6≈	2002 年(　　)
20 ×43 =	404 ÷4 =	1736 年(　　)
420 −140 =	108 ×7 =	1888 年(　　)
53 +44 =	260 ÷5 =	1600 年(　　)
66 ×70 =	307 ×9≈	1920 年(　　)
234 ÷3 =	31 ×19≈	1840 年(　　)
31 ×6 =	93 +28 =	1982 年(　　)

B组 变式口算题

2020 年 2 月 23 日是小红的第 9 个生日，同一年，再过几天爷爷才过第十五个生日。

1. 爷爷的生日是(　　)月(　　)日。
2. 爷爷 2020 年是(　　)岁。
3. 小红的出生日期是(　　)年(　　)月(　　)日。
4. 爷爷过第 17 个生日时是(　　)岁。

关注微信公众号“教辅资料站”获取更多学习资料

练习4 24时计时法

用时：____分____秒 错误：　个

A组 常规口算题

◆ 用24时计时法表示。

下午4:45(　　)
上午10:15(　　)
凌晨2:30(　　)
中午12:05(　　)
晚上8:00(　　)
下午5:30(　　)
半夜12时(　　)
早晨7:20(　　)
上午9:15(　　)
中午12:30(　　)
下午3:20(　　)
下午4:05(　　)
晚上9:20(　　)
晚上10:08(　　)
上午8:50(　　)

◆ 用普通计时法表示。

15:40(　　)
9:25(　　)
14:15(　　)
20:20(　　)
24:00(　　)
23:14(　　)
19:00(　　)
20:00(　　)
7:15(　　)
10:18(　　)
9:08(　　)
12:12(　　)
14:07(　　)
16:24(　　)
17:50(　　)

$21\times30-40=$
$15\times2\times80=$
$120\div4\div5=$
$640\div(2\times4)=$
$546\div6+10=$
$(47-12)\times4=$
$59\times(20\times5)=$
$42\times5\div7=$
$366\div3-51=$
$510-16\times20=$
$12\times50\div3=$
$64+24\times5=$
$31\times(97-27)=$
$480\div(51-43)=$
$93\div3\times40=$
$88+12\times70=$

B组 变式口算题

1. 王大夫从上午10:00开始给病人做手术，到下午5:00结束，这台手术共用了(　　)个小时。
2. 李叔叔坐火车14:00出发，第二天下午6时到达目的地，李叔叔途中用了(　　)个小时。
3. 海底世界上午9:00开馆，下午4:30闭馆，海底世界每天开放的时间是(　　)。
4. 亮亮晚上9:30上床睡觉，第二天早上7:00起床。亮亮的睡眠时间是(　　)小时(　　)分钟。

关注微信公众号“教辅资料站”获取更多学习资料

练习5 24时计时法解决问题（一）

用时：____分____秒 错误：　个

A组 常规口算题

13×50=	315÷3=	2小时=(　　)分钟
240×4=	549÷9=	300秒=(　　)分钟
93×3=	78÷6=	3日=(　　)小时
61×70=	55×4=	120分钟=(　　)小时
420÷4=	390÷3=	180秒=(　　)分钟
420÷3=	140×5=	(　　)秒=5分钟
98÷7=	25×4=	(　　)分钟=3小时
64÷2=	88×2=	(　　)分钟=240秒
105×3=	90÷5=	360分钟=(　　)小时
324÷3=	12×40=	48小时=(　　)日
510÷5=	33×30=	4分钟=(　　)秒
14×5=	81÷3=	6分钟=(　　)秒
40×70=	406÷2=	540分钟=(　　)小时
58÷2=	55÷5=	420秒=(　　)分钟
87÷3=	960÷8=	8分钟=(　　)秒
363÷3=	72÷4=	5日=(　　)小时

B组 变式口算题

1. 中央电视台体育频道从19:30开始直播一场足球赛，到21:15结束直播，这场足球赛共直播了(　　)小时(　　)分钟。(在钟面上画出开始直播和结束直播的时刻)

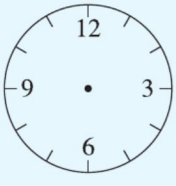

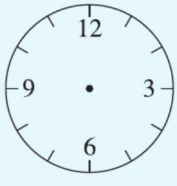

2. 爸爸和涵涵开车去奶奶家，上午10:00出发，下午1:00到达。爸爸开车的速度是每小时80千米。涵涵家和奶奶家相距(　　)千米。

关注微信公众号“教辅资料站”获取更多学习资料

练习6 24时计时法解决问题（二）

用时：____分____秒 错误：　个

A组 常规口算题

480 ÷ 3 =	15 × 3 =	3 日 = (　　) 小时
95 ÷ 5 =	104 × 6 =	4 小时 = (　　) 分钟
35 × 20 =	42 ÷ 3 =	240 秒 = (　　) 分钟
150 × 5 =	357 ÷ 7 =	300 分钟 = (　　) 小时
38 ÷ 2 =	24 × 5 =	(　　) 分钟 = 120 秒
260 × 3 =	756 ÷ 7 =	(　　) 小时 = 60 分钟
73 × 3 =	624 ÷ 3 =	(　　) 小时 = 180 分钟
453 ÷ 3 =	96 ÷ 4 =	(　　) 分钟 = 6 小时
560 ÷ 7 =	309 ÷ 3 =	(　　) 日 = 72 小时
54 ÷ 6 =	14 × 60 =	5 分钟 = (　　) 秒
25 × 4 =	23 × 5 =	360 分钟 = (　　) 小时
30 × 13 =	45 × 4 =	11 小时 = (　　) 分钟
920 ÷ 4 =	86 ÷ 2 =	480 分钟 = (　　) 小时
530 ÷ 5 =	60 × 21 =	10 分钟 = (　　) 秒
318 ÷ 3 =	8 × 110 =	9 小时 = (　　) 分钟
17 × 40 =	990 ÷ 3 =	(　　) 分钟 = 3 小时

B组 变式口算题

1. 下面是邮局和超市的营业时间。(　　) 的营业时间长，长 (　　)。

邮局	超市
9:00 – 18:00	8:30 – 21:30

2. 将下面的表格补充完整。

车次	始发站	开车	终点站	到站	运行时间
Z14	广州东	17:10	沈阳北	第二天 22:37	
Z29	北京	21:33	扬州		10 小时 15 分钟
D27	北京		哈尔滨西	22:50	7 小时 35 分钟

关注微信公众号“教辅资料站”获取更多学习资料

第6单元口算能力测试

用时：____分____秒　错误：　个

A组 常规口算题

490 ÷ 7 =	940 ÷ 2 =	369 ÷ 3 =
108 × 9 =	170 × 3 =	91 × 2 =
150 × 4 =	568 ÷ 8 =	130 × 4 =
84 ÷ 3 =	12 × 50 =	840 ÷ 8 =
318 ÷ 3 =	93 ÷ 3 =	106 × 4 =
15 × 30 =	324 ÷ 3 =	450 × 2 =
55 ÷ 5 =	16 × 40 =	405 ÷ 5 =
19 × 4 =	105 × 4 =	29 × 3 =
804 ÷ 2 =	420 ÷ 7 =	37 × 20 =
70 × 90 =	45 ÷ 3 =	660 ÷ 6 =
26 × 3 =	36 ÷ 9 =	88 ÷ 4 =
426 ÷ 6 =	27 × 3 =	420 × 3 =
410 × 3 =	310 × 4 =	570 ÷ 3 =
540 ÷ 3 =	160 ÷ 5 =	43 × 3 =
78 ÷ 3 =	30 × 51 =	96 ÷ 6 =
17 × 40 =	18 × 20 =	168 ÷ 4 =

B组 变式口算题

选一选。

1. 爸爸17:20开始健身运动，经过1小时30分钟结束，结束时间是下午(　　)。

A. 18:50　　B. 6:50　　C. 16:10　　D. 5:50

2. 下列年份中，(　　)是闰年。

A. 1900年　　B. 1964年　　C. 2015年　　D. 2014年

3. 小明在姥姥家连住了两个月，正好是62天，这两个月是(　　)。

A. 2月和3月　　B. 4月和5月　　C. 7月和8月　　D. 不能确定

关注微信公众号“教辅资料站”获取更多学习资料

制作活动日历

用时：____分____秒 错误：　个

A组 常规口算题

37×20=	◆24时计时法和普通计时法互化。	6分钟=(　　)秒
36×3=	下午5时(　　)	(　　)分钟=3小时
540÷3=	上午9:20(　　)	(　　)小时=120分钟
107×8=	17:25(　　)	5分钟=(　　)秒
749÷7=	9:10(　　)	7小时=(　　)分钟
45×10=	14:04(　　)	3日=(　　)小时
520÷5=	中午12:20(　　)	360分钟=(　　)小时
369÷3=	晚上8:10(　　)	(　　)秒=4分钟
42×4=	凌晨4:05(　　)	(　　)分钟=5小时
306÷6=	晚上11:58(　　)	(　　)日=72小时
18×50=	19:35(　　)	1小时=(　　)分钟
515÷5=	23:30(　　)	7分钟=(　　)秒
72÷6=	下午3:40(　　)	300分钟=(　　)小时
17×5=	7:15(　　)	4小时=(　　)分钟
66÷3=	早晨7:02(　　)	180秒=(　　)分钟
140×6=	0时(　　)	5日=(　　)小时
51×8=		3分钟=(　　)秒

B组 变式口算题

从甲地开往乙地的汽车，每2小时发一班车，最早一班车早晨6:20开出，最晚一班车晚上8:20开出。

1. 一天共有(　　)个班次。

2. 请填出每班次汽车的发车时刻。

班次	1	2	3	4	5	6	7	8
发车时刻								

关注微信公众号“教辅资料站”获取更多学习资料

难易等级：

练习1 认识小数（一）

用时：____分____秒　错误：　个

A组 常规口算题

25 × 4 =	104 × 5 =	3.45 读作：_____
120 × 8 =	94 × 20 =	2.60 读作：_____
240 ÷ 6 =	84 ÷ 6 =	36.6 读作：_____
396 ÷ 3 =	310 × 4 =	1.2 读作：_____
32 × 30 =	39 × 2 =	0.5 读作：_____
408 ÷ 2 =	535 ÷ 5 =	7.13 读作：_____
240 × 4 =	105 ÷ 5 =	5.31 读作：_____
74 ÷ 2 =	17 × 4 =	0.64 读作：_____
51 × 8 =	270 × 3 =	12.7 读作：_____
65 ÷ 5 =	426 ÷ 6 =	1.55 读作：_____
810 × 2 =	43 × 30 =	8.3 读作：_____
545 ÷ 5 =	170 ÷ 2 =	1.67 读作：_____
63 × 20 =	340 × 2 =	15.7 读作：_____
549 ÷ 9 =	350 ÷ 5 =	0.9 读作：_____
330 ÷ 3 =	69 ÷ 3 =	18.2 读作：_____
420 ÷ 4 =	91 ÷ 7 =	1.82 读作：_____

B组 变式口算题

1. 3角是1元的十分之三，是 $\frac{3}{10}$ 元，还可以写成(　　)元。

7角是 $\frac{7}{10}$ 元，还可以写成(　　)元。

4元6角写成小数形式是(　　)元。

2. 4分米是1米的十分之四，是 $\frac{4}{10}$ 米，还可以写成(　　)米。9分米是 $\frac{(\quad)}{(\quad)}$ 米，还可以写成(　　)米。7米8分米写成小数形式是(　　)米。

关注微信公众号“教辅资料站”获取更多学习资料

练习2 认识小数（二）

用时：____分____秒 错误：　个

A组 常规口算题

24 × 50 =	123 × 3 =	8.2 读作：_____
130 × 6 =	75 × 30 =	9.7 读作：_____
95 ÷ 5 =	440 ÷ 2 =	0.45 读作：_____
123 ÷ 3 =	24 × 20 =	31.2 读作：_____
242 × 2 =	355 ÷ 5 =	8.06 读作：_____
510 ÷ 5 =	108 × 9 =	12.4 读作：_____
420 × 3 =	26 × 20 =	80.1 读作：_____
37 × 20 =	48 ÷ 3 =	5.74 读作：_____
121 × 4 =	510 × 6 =	6.3 读作：_____
648 ÷ 8 =	170 × 5 =	2.70 读作：_____
86 ÷ 2 =	92 ÷ 4 =	0.3 读作：_____
324 ÷ 3 =	41 × 70 =	25.5 读作：_____
60 × 110 =	72 ÷ 6 =	3.05 读作：_____
23 × 10 =	81 ÷ 3 =	14.1 读作：_____
72 ÷ 4 =	250 × 4 =	0.41 读作：_____
806 ÷ 2 =	306 ÷ 6 =	3.9 读作：_____

B组 变式口算题

1. 4 角是$\frac{(\quad)}{(\quad)}$元，还可以写成(　　)元。7 元 2 角写成小数形式是(　　)元。

2. 7 分米是$\frac{(\quad)}{(\quad)}$米，还可以写成(　　)米，9 米 6 分米写成小数形式是(　　)米。

3. 看图填上合适的分数和小数。

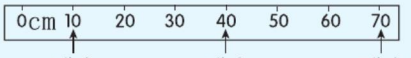

$\frac{(\quad)}{(\quad)}$米　$\frac{(\quad)}{(\quad)}$米　$\frac{(\quad)}{(\quad)}$米

(　　)米　(　　)米　(　　)米

4.



(　　)元

关注微信公众号“教辅资料站”获取更多学习资料

练习3 小数的大小比较

用时：____分____秒 错误：　个

A组 常规口算题

56 ÷4 =	150 ×3 =	◆ 比较大小。
23 ×30 =	110 ×8 =	0.4 ◯ 0.7
24 ×5 =	51 ÷3 =	2.3 ◯ 2.1
21 ×40 =	25 ×4 =	36.6 ◯ 34.6
98 ÷2 =	30 ×62 =	4.7 ◯ 5.1
450 ÷3 =	21 ×5 =	4.3 ◯ 4.1
819 ÷9 =	39 ÷3 =	10.2 ◯ 11.4
160 ×4 =	560 ÷8 =	3.5 ◯ 2.4
510 ÷3 =	107 ×5 =	6.4 ◯ 6.6
609 ÷3 =	405 ÷5 =	8.7 ◯ 9.7
408 ÷4 =	170 ×3 =	18.8 ◯ 18.5
48 ×5 =	848 ÷4 =	0.9 ◯ 1.1
320 ×3 =	990 ÷3 =	4.9 ◯ 5
74 ÷2 =	19 ×4 =	8.8 ◯ 9.5
848 ÷8 =	220 ÷4 =	12.4 ◯ 12.6
26 ×30 =	312 ÷3 =	25.7 ◯ 2.57

B组 变式口算题

1. 把下面两组数按从大到小的顺序排列。

(1)3.5　4.7　3.1　5.8

(　　) > (　　) > (　　) > (　　)

(2)13.5　12.5　10.9　23

(　　) > (　　) > (　　) > (　　)

2. 下面是5名同学100米赛跑的成绩，请你把前三名同学的名字写在领奖台上。

姓名	小华	小军	小强	小刚	小英
成绩	17.8秒	18.7秒	21.4秒	18.8秒	19.8秒

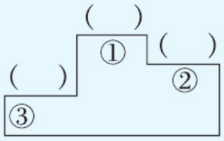

关注微信公众号“教辅资料站”获取更多学习资料

练习4 简单的小数加减法

用时：____分____秒 错误：　个

A组 常规口算题

0.7 +0.1 =	0.4 −0.3 =	4.5 −2.3 =
1.8 −0.6 =	3.9 −1.7 =	1.4 +0.9 =
4.5 +2.3 =	5.8 −1.4 =	4.9 −0.3 =
6.2 −3.1 =	3.1 +1.4 =	4.4 +0.4 =
14.5 −3.1 =	4.9 −2.7 =	8.6 −7.5 =
8.8 +1.1 =	8.1 +4.6 =	7.4 +8.5 =
12.4 +1.5 =	0.9 −0.4 =	31.8 −14.2 =
13.9 −4.1 =	0.8 +1.3 =	15.6 +1.3 =
10.4 −3.1 =	5.7 −3.6 =	2.1 −0.9 =
7.4 +1.2 =	4.7 +1.2 =	4.5 +3.8 =
6.4 −1.7 =	9.4 −1.4 =	0.2 +0.7 =
8.5 +1.3 =	5.7 −1.6 =	10.4 −5.1 =
9.8 −1.7 =	4.4 +1.5 =	3.4 −2.2 =
12.4 −1.4 =	9.4 −1.3 =	0.6 +0.9 =
45.6 −1.6 =	3.2 +1.5 =	8.9 −2.8 =
8.9 −2.3 =	14.6 +5.1 =	8.7 −1.4 =

B组 变式口算题

1. 一本小学数学三年级下册《典中点》35.90 元，一本小学数学三年级下册《好卷》30.90元。

(1)买一本小学数学三年级下册《典中点》比买一本《好卷》多用(　　)元。

(2)买这两本书一共要用(　　)元。

2. 按规律填一填。

(1)0.2,0.4,0.6,0.8,(　　),(　　),1.4。

(2)4.4,4.1,3.8,(　　),(　　),2.9,(　　)。

关注微信公众号“教辅资料站”获取更多学习资料

练习5 小数加减法的实际应用（一）

用时：____分____秒 错误：　个

A组 常规口算题

2.1 +4.8 =
3.4 −1.2 =
9.4 +1.5 =
8.3 +1.2 =
10 −4.9 =
7.8 −1.5 =
6.4 +1.2 =
8.4 +5 =
3.8 +1.2 =
4.4 −1.5 =
9.9 +5 =
1.9 −0.4 =
0.4 +0.9 =
5.7 +1.1 =
13.4 +1.3 =
9 −0.4 =
2.3 +3.2 =

8.5 −1.4 =
3 −0.4 =
4.8 −2.1 =
9.2 +3.7 =
14.1 +1.4 =
3.4 +1.2 =
13 −2.5 =
9.9 −4.4 =
7 −0.8 =
5.6 +4.3 =
7.4 −1.4 =
3.7 −1.4 =
12.5 +1.3 =
13.4 −12.3 =
8 +1.7 =
5.7 +1.2 =
7.3 +5.4 =

◆ 比较大小。

0.8 元◯0.5 元
2.7 米◯3.6 米
10 元◯9.9 元
5.4 分米◯5 分米
2.8 吨◯3.1 吨
12.3 千克◯13.1 千克
0.8 千米◯1.1 千米
3.6 元◯5.4 元
5.5 米◯5.3 米
6 吨◯5.7 吨
9.4 千克◯8.8 千克
4.2 克◯3.7 克
12.3 千米◯15 千米
5.4 米◯4.7 米
12.4 元◯10 元

B组 变式口算题

1. 判断。

(1)小数都比整数小。（　　）
(2)把3角8分改写成用元作单位的数是0.38元。（　　）
(3)比0.2大比0.4小的小数只有0.3。（　　）
(4)1米比0.6米多4厘米。（　　）

2. 红红买圆珠笔用去2.5元，买笔袋用去12.4元。

(1)红红一共用了(　　)元。
(2)红红给了售货员20元，应找回(　　)元。

关注微信公众号“教辅资料站”获取更多学习资料

练习6 小数加减法的实际应用（二）

用时：____分____秒 错误：　个

A组 常规口算题

7.8 −1.5 =	4.2 +1.7 =	9.6 −1.1 =
8.4 +2.1 =	2.8 +1.1 =	4.6 +2.3 =
10.3 −1.2 =	12.4 −2.1 =	10 −4.4 =
24.7 −15 =	15.3 +1.4 =	0.4 +3.5 =
4.5 −1.4 =	20 −1.4 =	14.6 −3.5 =
23.4 −2.3 =	9.4 −1.4 =	8.9 −6.4 =
8.8 −4.4 =	5.2 +2.8 =	5.7 +1.4 =
9.6 +3 =	3.7 +1.2 =	9.3 −0.8 =
12.4 +1.1 =	0.8 +0.4 =	1.4 +0.6 =
6.6 +2.3 =	1.3 +0.9 =	9.2 +0.5 =
1.9 −0.7 =	2.4 −1.6 =	3 −0.2 =
2.4 −1.3 =	5.5 −4.7 =	8.4 −4.8 =
8.1 +1.6 =	3.6 +0.4 =	5.3 −3 =
0.3 +1.2 =	8.2 +1.7 =	9.5 +1.3 =
3 +1.9 =	4.9 −1.3 =	6.6 −4.3 =
6 −0.1 =	5 −3.1 =	19.4 −1.4 =

B组 变式口算题

1. 甲数是9.2，比乙数多2.5，乙数是(　　)。

2. 比1.5大0.7的数是(　　)。

3. 一张长方形课桌长1米4分米，宽比长短8分米，用小数表示课桌的长是(　　)米，宽是(　　)米，这张长方形课桌的周长是(　　)米。

4. 一辆货车自重2.8吨，载重5.2吨，4辆这样的货车(　　)同时通过一座“载重量≤30吨”的桥。（填“能”或“不能”）

关注微信公众号“教辅资料站”获取更多学习资料

第7单元口算能力测试

用时：____分____秒　错误：　个

A组　常规口算题

8.7 −3.4 =	6 +12.1 =
9 −4.8 =	0.7 +0.8 =
3.6 −1.8 =	4.9 −4.3 =
6.7 +2.2 =	7.8 −1.5 =
1.4 +0.3 =	4.9 +0.4 =
0.6 +1.5 =	1.8 −1.6 =
8.5 −7.4 =	3.9 −2.7 =
42.3 +15.2 =	5.5 +1.5 =
4.8 −3.1 =	4.2 −0.6 =
3.7 +2.2 =	8.8 −5.8 =
5 −0.7 =	19.2 −19.2 =
4.9 −1.2 =	1.8 −1.4 =
2.5 +4.4 =	5.6 +1.2 =
20.4 −2 =	7.3 −1.6 =
6.2 −2.7 =	2.6 −1.8 =

◆ 在◯里填“>”“<”或“=”。

1.4 米◯0.8 米
6.7 元◯2.5 元
1.8 吨◯1.9 吨
2.5 千克◯3 千克
3.7 分米◯5 分米
15 千米◯15.6 千米
4.2 吨◯4.7 吨
10.5 元◯10 元
12.4 米◯14.2 米
7.5 分米◯7.7 分米
5.5 千米◯4.9 千米
6.0 元◯6 元
9.4 克◯9.5 克

B组　变式口算题

选一选。

1. 下图中阴影部分不能用0.5表示的是(　　)。

A. 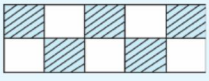　B. 　C. 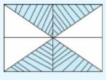　D. 

2. 在4分米、3米、0.9米、$\frac{7}{10}$米中，(　　)最大，(　　)最小。

A. 4分米　　B. 0.9米　　C. $\frac{7}{10}$米　　D. 3米

3. 爸爸把2条长度分别为3.4米、5.6米的绳子接起来捆扎报纸，已知接头处共用去0.3米长的绳子，接好后的绳子长(　　)米。

A. 9　　B. 0.3　　C. 8.4　　D. 8.7

关注微信公众号“教辅资料站”获取更多学习资料

第8单元 数学广角——搭配（二）

练习1 搭配（一）

用时：____分____秒　错误：　个

A组 常规口算题

39 × 2 =
480 ÷ 6 =
170 × 3 =
364 ÷ 4 =
91 ÷ 7 =
39 × 61 ≈
105 × 4 =
721 ÷ 7 =
510 ÷ 5 =
25 × 3 =
489 ÷ 8 ≈
806 ÷ 2 =
330 × 2 =
66 ÷ 3 =
80 × 12 =
43 × 5 =

480 + 12 × 5 =
(317 − 17) ÷ 6 =
120 × 4 ÷ 6 =
35 + 11 × 7 =
(42 − 16) × 3 =
50 × 13 − 310 =
424 ÷ 4 + 51 =
360 − 440 ÷ 4 =
51 + 39 ÷ 3 =
640 ÷ 8 × 12 =
25 × 4 ÷ 5 =
121 × 3 − 10 =
50 × 14 ÷ 7 =
360 ÷ 9 + 50 =
45 × 20 ÷ 3 =
44 × 6 − 20 =

◆ 在○里填“ > ”“ < ”或“ = ”。

360 × 3 ○ 1000
457 ÷ 3 ○ 160
1620 ○ 69 × 17
40 ○ 370 ÷ 9
51 ○ 269 ÷ 3
394 ÷ 3 ○ 100
563 ÷ 9 ○ 60
82 × 11 ○ 1000
49 × 71 ○ 2800
3000 ○ 94 × 41
160 × 5 ○ 780
82 ÷ 2 ○ 41
307 × 5 ○ 1535
24 × 36 ○ 600
534 ÷ 9 ○ 60

B组 变式口算题

1. 用3、6、8、0四个数字可以组成(　　)个没有重复数字的两位数，它们分别是(　　)。

2. 用2、3、4、5四个数字能组成(　　)个没有重复数字的两位数，其中有(　　)个个位是偶数的两位数，它们分别是(　　)。

3. 把5本同样的书分给丽丽、乐乐、果果3名同学，每人至少分1本，有(　　)种分法。

4. 一件衬衫搭一条裤子，两件不同的衬衫和三条不同的裤子有(　　)种不同的搭法。

关注微信公众号“教辅资料站”获取更多学习资料

练习2 搭配（二）

用时：____分____秒 错误：　个

A组 常规口算题

6分米 = (　　)米　　2米 −4分米 = (　　)分米

30厘米 = (　　)分米　　3小时 −120分钟 = (　　)小时

4平方分米 = (　　)平方厘米　　400平方分米 +200平方分米 = (　　)平方米

2元3角 = (　　)元　　3元4角 −1元1角 = (　　)元

3日 = (　　)小时　　1米4分米 −9分米 = (　　)米

60分钟 = (　　)小时　　160秒 −40秒 = (　　)分钟

9分米 = (　　)米　　4平方米 +3平方米 = (　　)平方米

500平方分米 = (　　)平方米　　7厘米 −11毫米 = (　　)毫米

(　　)平方分米 =2平方米　　8分米 +4分米 = (　　)米

(　　)小时 =480分钟　　50分钟 +70分钟 = (　　)小时

(　　)分米 =3米　　1元4角 +6角 = (　　)元

6厘米 = (　　)分米　　480分钟 −180分钟 = (　　)小时

10毫米 = (　　)厘米　　17小时 +7小时 = (　　)日

1400平方分米 = (　　)平方米　　6元4角 −5元2角 = (　　)元

7元4角 = (　　)元　　3米1分米 +6分米 = (　　)米

2小时 = (　　)分钟　　240平方厘米 +60平方厘米 = (　　)平方分米

B组 变式口算题

下面的衣服有(　　)种不同的穿法。连一连。



关注微信公众号“教辅资料站”获取更多学习资料

练习3 搭配（三）

用时：____分____秒 错误：　个

A组 常规口算题

7.1 +6.6 =　　8.8 −2.6 =

4.5 +2.2 =　　6.7 +2.1 =

6.3 +3.6 =　　3.1 +1.5 =

7.2 −3.2 =　　1.7 −0.8 =

9.6 −1.4 =　　5.5 −0.4 =

5.3 +1.5 =　　0.9 −0.1 =

9.1 +10 =　　10.7 +1.2 =

8 −3.2 =　　8.1 +6.3 =

0.9 +0.7 =　　15.4 −1.3 =

1.7 −1.3 =　　2.9 −1.7 =

4.2 −0.6 =　　4.7 +1.3 =

10.3 −1.3 =　　10 −0.4 =

9.8 −1.7 =　　12.4 +1.4 =

12.3 −1.2 =　　5 +3.7 =

20.4 −2.4 =　　6.9 −1.1 =

9 −0.9 =　　8.2 +0.2 =

◆ 在◯里填上“ >”或“ <”。

7.5 元◯7.3 元

8.2 吨◯7.9 吨

15 米◯10.9 米

0.4 千克◯0.7 千克

2.6 分米◯2.7 分米

9.3 平方米◯10 平方米

11.7 元◯10.9 元

3.1 吨◯2.9 吨

5.6 米◯6.5 米

12.4 分米◯13.1 分米

0.7 千米◯1.1 千米

8.9 千克◯8.7 千克

10.4 米◯11.1 米

1.1 元◯1.7 元

5.7 米◯5.4 米

B组 变式口算题

1. 爸爸有以下 5 种面值的纸币各一张：   

，每次任取 2 张，有(　　)种不同的情况，最多可取出(　　)元，最少可取出(　　)元。

2. 

(1)从中任意取 2 本，有(　　)种取法。

(2)明明想选故事书和其他任意 1 本书，共有(　　)种选法。

3. 5 名同学每 2 人玩一局五子棋，一共要玩(　　)局。

关注微信公众号“教辅资料站”获取更多学习资料



第8单元口算能力测试

用时：____分____秒　错误：　个

A组 常规口算题

75 ÷5 =	35 ×2 =	98 ÷7 =
930 ÷3 =	40 ×17 =	62 ×4 =
11 ×9 =	720 ÷9 =	482 ÷2 =
480 ÷8 =	64 ÷4 =	123 ÷3 =
402 ×3 =	52 ×10 =	95 ÷5 =
363 ÷3 =	612 ÷6 =	660 ÷6 =
160 ×5 =	906 ÷3 =	819 ÷9 =
515 ÷5 =	60 ×21 =	420 ×3 =
81 ÷3 =	78 ÷6 =	17 ×3 =
42 ×20 =	190 ×4 =	13 ×50 =
21 ×4 =	420 ÷4 =	560 ÷7 =
369 ÷9 =	270 ×3 =	70 ×90 =
50 ×14 =	39 ÷3 =	205 ÷5 =
0 ×289 =	41 ×50 =	108 ×2 =
721 ÷7 =	93 ×3 =	780 ÷3 =
33 ×20 =	0 ÷6 =	121 ×4 =

B组 变式口算题

1. 在美丽的校园里，丽丽、亮亮、圆圆和江江打算照一张合影，如果丽丽站在第一个位置不动，他们一共有(　　)种不同的站法。
2. 每两个小朋友握一次手，四个小朋友一共要握(　　)次手。
3. 五位同学参加象棋比赛，每两人比赛一盘，一共要比赛(　　)盘。
4. 一个不透明的箱子里放着红、黄、绿、蓝四种颜色的球各一个，这些球除颜色外其余均相同，从箱子里任意拿出两个球，有(　　)种不同的结果。



关注微信公众号“教辅资料站”获取更多学习资料

我们的校园

用时：____分____秒 错误：　个

A组 常规口算题

40 ×13 =	110 ×7 =	320 ÷8 =
75 ÷5 =	720 ÷3 =	94 ×2 =
880 ÷2 =	38 ×2 =	87 ÷3 =
21 ×4 =	81 ÷3 =	27 ×20 =
609 ÷3 =	520 ÷5 =	369 ÷3 =
140 ×6 =	42 ×20 =	321 ×3 =
848 ÷8 =	320 ÷4 =	427 ÷7 =
202 ×4 =	210 ×7 =	108 ×5 =
121 ×4 =	760 ÷2 =	56 ÷4 =
816 ÷8 =	95 ÷5 =	92 ×40 =
192 ×4 ≈	23 ×4 =	552 ÷9 ≈
19 ×30 =	160 ÷5 =	260 ×3 =
208 ÷4 =	450 ×2 =	408 ÷8 =
248 ÷2 =	600 ÷4 =	131 ×2 =
170 ×4 =	780 ÷6 =	490 ÷7 =
260 ÷2 =	120 ×8 =	106 ×5 =

B组 变式口算题

某小区前面有一块边长为 60 米的正方形空地，现要在此空地的中间建一个长 30 米，宽 20 米的长方形花圃，其余部分植上草皮（如图）。

1. 长方形花圃的面积是（　　）平方米。
2. 植草皮的面积是（　　）平方米。
3. 植 1 平方米草皮花费 3 元，植草皮共花费（　　）元。

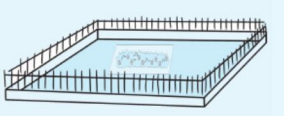

关注微信公众号“教辅资料站”获取更多学习资料

第9单元 总复习

练习1 位置与方向（一）

用时：____分____秒　错误：　个

A组 常规口算题

420 + 310 =	15 × 60 =	42 ÷ 3 =
530 − 160 =	210 × 4 =	55 × 2 =
12 × 6 =	450 + 15 =	405 ÷ 5 =
309 ÷ 3 =	105 × 6 =	36 + 17 =
56 ÷ 4 =	424 ÷ 4 =	366 ÷ 3 =
37 × 20 =	570 ÷ 3 =	63 × 30 =
720 ÷ 4 =	14 × 5 =	969 ÷ 3 =
420 ÷ 4 =	109 × 3 ≈	230 − 170 =
880 ÷ 8 =	84 ÷ 7 =	139 × 5 ≈
32 × 30 =	124 × 2 =	81 × 40 =
631 ÷ 7 ≈	12 × 70 =	430 + 15 =
530 + 26 =	351 ÷ 6 ≈	720 ÷ 7 ≈
72 ÷ 6 =	810 ÷ 3 =	80 ÷ 5 =
170 × 4 =	321 × 3 =	24 × 5 =
636 ÷ 6 =	105 ÷ 5 =	25 × 4 =
49 × 21 ≈	123 ÷ 3 =	670 − 240 =

B组 变式口算题

1. 竹园路的西面有（　　）、（　　）、（　　）。

2. 学校在小慧家的（　　）面，小军家在小慧家的（　　）方向。

3. 小军从家到书店，可以先向东走到（　　），再向（　　）走到书店；也可以先向（　　）走到（　　），再向（　　）走到书店。

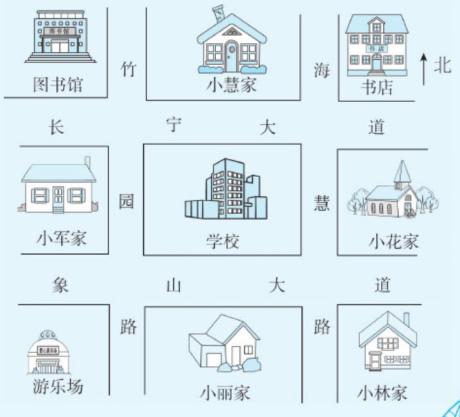

关注微信公众号“教辅资料站”获取更多学习资料

练习2 除数是一位数的除法

用时：____分____秒 错误：　个

A组 常规口算题

34 ×20 =	540 ÷9 =	98 ÷7 =
93 ÷3 =	47 ×20 =	560 ÷8 =
306 ÷6 =	570 ÷3 =	420 ÷6 =
720 ÷8 =	84 ÷4 =	95 ×2 =
13 ×7 =	53 ×3 =	850 ÷5 =
848 ÷4 =	618 ÷3 =	436 ÷4 =
220 ÷2 =	525 ÷5 =	110 ×7 =
680 ÷2 =	42 ×40 =	210 ÷2 =
108 ×9 =	324 ÷4 =	369 ÷9 =
43 ×20 =	70 ÷5 =	230 ×3 =
72 ÷3 =	312 ÷3 =	408 ÷8 =
144 ÷2 =	51 ×60 =	55 ÷5 =
56 ×2 =	52 ÷4 =	80 ×12 =
728 ÷8 =	124 ÷4 =	602 ÷2 =
323 ×2 =	868 ÷2 =	105 ÷5 =
540 ÷6 =	318 ÷3 =	91 ÷7 =

B组 变式口算题

1. 判断。

（1）计算除法时，每次除得的余数必须比商小。（　　）

（2）被除数末尾有0，商末尾一定也有0。（　　）

（3）0除以任何不是0的数都得0。（　　）

（4）在除数是一位数的除法中，余数是5，除数可能是6，7，8，9。（　　）

2. 某校一年级新生中，男生有180人，女生有170人，把他们平均分成7个班，每班有（　　）人。

关注微信公众号“教辅资料站”获取更多学习资料

练习3 复式统计表

用时：____分____秒 错误：　个

A组 常规口算题

17×20 =
95÷5 =
320÷8 =
46÷2 =
35×2 =
609÷3 =
78÷6 =
76÷4 =
124×2 =
560÷4 =
140÷5 =
54÷2 =
96×10 =
637÷7 =
168÷4 =
405÷5 =

96÷3 =
13×40 =
810÷9 =
510÷3 =
15×6 =
82÷2 =
505÷5 =
210×5 =
728÷8 =
140÷2 =
243÷3 =
31×40 =
420÷4 =
490÷7 =
612÷6 =
91×3 =

◆ 在○里填“>”“<”或“=”。

390－270 ○ 23×4
450÷3 ○ 94＋20
367÷4 ○ 25×10
480÷6 ○ 17×3
324×2 ○ 890＋20
570÷3 ○ 240－110
850÷5 ○ 360－200
430＋110 ○ 60×9
404÷4 ○ 32＋68
73＋11 ○ 25×4
82×69 ○ 50×100
321÷3 ○ 40＋70
54＋11 ○ 180÷2
280÷2 ○ 28×5

B组 变式口算题

根据题中信息补全统计表。

中国体育代表团在第28～第31届奥运会上获得的奖牌情况如下：

第28届：金牌：32枚　银牌：17枚　铜牌：14枚
第29届：金牌：51枚　银牌：21枚　铜牌：28枚
第30届：金牌：38枚　银牌：27枚　铜牌：23枚
第31届：金牌：26枚　银牌：18枚　铜牌：26枚

中国体育代表团奥运会获得奖牌情况统计表（第28～第31届）

数量/枚 \ 届数 / 奖牌	28	29	30	31
金牌				
银牌				
铜牌				

关注微信公众号“教辅资料站”获取更多学习资料

练习4 两位数乘两位数

用时：____分____秒 错误：　个

A组 常规口算题

14 ×2 =	23 ×3 =	40 ×3 ×2 =
11 ×7 =	120 ×4 =	340 ×2 −160 =
35 ×10 =	240 ×3 =	30 ×50 +700 =
190 ×4 =	510 ×3 =	62 ×20 −300 =
32 ×4 =	14 ×30 =	31 ×30 −110 =
61 ×20 =	54 ×3 =	(45 −13) ×4 =
43 ×30 =	15 ×40 =	(88 +12) ×37 =
321 ×3 =	124 ×2 =	46 −12 ×3 =
306 ×2 ≈	207 ×3 =	54 ×(98 −96) =
150 ×5 =	110 ×7 =	33 ×(15 +15) =
39 ×51 ≈	124 ×6 ≈	50 ×4 ×12 =
404 ×3 =	57 ×63 ≈	41 ×(5 ×6) =
32 ×20 =	47 ×10 =	39 ×(25 ×4) =
104 ×5 =	13 ×70 =	108 −12 ×7 =
199 ×3 ≈	81 ×60 =	90 ×5 −120 =
102 ×4 =	18 ×40 =	(84 −24) ×14 =

B组 变式口算题

1. 端午节快到了，某超市购进180个粽子，每2个装1袋，每3袋装1盒，这些粽子可以装(　　)盒。

2. 张叔叔家大约收了(　　)箱苹果。



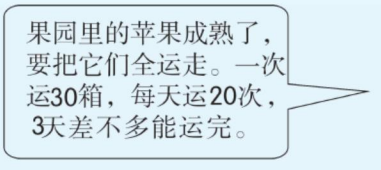



张叔叔

关注微信公众号“教辅资料站”获取更多学习资料

练习5 面积

用时：____分____秒 错误：　个

A组 常规口算题

3 米 =（　　）分米

4 平方分米 =（　　）平方厘米

6 分米 =（　　）厘米

20 毫米 =（　　）厘米

300 平方分米 =（　　）平方米

7 平方米 =（　　）平方分米

2100 平方厘米 =（　　）平方分米

4 分米 =（　　）米

2 米 =（　　）厘米

8 平方分米 =（　　）平方厘米

（　　）平方分米 =9 平方米

1 米 7 分米 =（　　）米

（　　）平方厘米 =11 平方分米

（　　）平方米 =500 平方分米

30 厘米 =（　　）分米

2300 平方分米 =（　　）平方米

◆ 求下列长方形或正方形的面积。

长 =3 米，宽 =1 米，面积 =（　　）平方米；

长 =12 厘米，宽 =7 厘米，

面积 =（　　）平方厘米；

长 =6 分米，宽 =1 分米，

面积 =（　　）平方分米；

长 =12 米，宽 =5 米，

面积 =（　　）平方米；

长 =3 分米，宽 =2 厘米，

面积 =（　　）平方厘米；

长 =11 厘米，宽 =1 分米，

面积 =（　　）平方厘米；

边长 =10 厘米，面积 =（　　）平方厘米；

边长 =4 厘米，面积 =（　　）平方厘米；

边长 =1 分米，面积 =（　　）平方分米；

边长 =2 米，面积 =（　　）平方米；

边长 =3 分米，面积 =（　　）平方分米。

B组 变式口算题

1. 王老师家的客厅长 6 米，宽 3 米，如果用边长是 3 分米的正方形地砖铺客厅，一共要铺（　　）块。

2. 从一个长 7 米，宽 5 米的长方形上剪下一个最大的正方形，剩余部分的面积是（　　）平方米。

3. 如图，长方形菜地长 30 米，宽 20 米，菜地中间留了宽 1 米的小路，小路的面积是（　　）平方米。

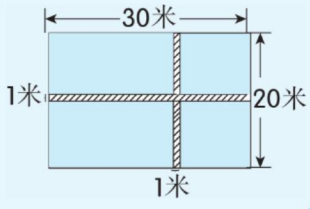

关注微信公众号“教辅资料站”获取更多学习资料

练习6 年、月、日

用时：____分____秒 错误：　个

A组 常规口算题

12 ×6 =	120 ×8 =	640 ÷8 =
450 ÷9 =	828 ÷2 =	856 ÷8 =
663 ÷3 =	18 ×50 =	92 ×40 =
24 ×20 =	72 ÷3 =	240 ÷2 =
84 ÷2 =	301 ×7 =	202 ×4 =
142 ×2 =	21 ×6 =	83 ×3 =
455 ÷5 =	360 ÷4 =	324 ÷4 =
35 ×4 =	420 ×3 =	84 ÷7 =
505 ÷5 =	34 ×2 =	121 ×2 =
130 ×5 =	728 ÷8 =	5 ×210 =
27 ×30 =	440 ÷8 =	939 ÷3 =
126 ÷6 =	105 ×6 =	246 ÷2 =
106 ×7 =	5 ×71 =	302 ×6 =
305 ÷5 =	520 ÷5 =	0 ×987 =
45 ×2 =	721 ÷7 =	7 ×41 =
18 ×4 =	105 ÷5 =	32 ×50 =

B组 变式口算题

选一选。

1. 下面的年份中，(　　)年2月有29天。

A. 1994　　B. 2004　　C. 1997　　D. 1800

2. 涵涵在暑假里参加了为期15天的夏令营，8月2日闭营汇演，夏令营从(　　)开始。

A. 7月17日　　B. 7月18日　　C. 8月17日　　D. 7月19日

3. 小小星期天看了一场足球赛，足球赛上、下半场各45分钟，中场休息15分钟，比赛结束时是下午1:38，足球赛开始时是(　　)。

A. 中午12:08　　B. 下午3:23　　C. 上午11:53　　D. 下午1:23

关注微信公众号“教辅资料站”获取更多学习资料

练习7 小数的初步认识

用时：____分____秒 错误：　个

A组 常规口算题

4元6角=(　　)元
7分米=(　　)米
1米4分米=(　　)米
5角=(　　)元
2元1角=(　　)元
3米3分米=(　　)米
12分米=(　　)米
8角=(　　)元
3元4角=(　　)元
12元3角=(　　)元
7米7分米=(　　)米
1分米=(　　)米
3角=(　　)元
9分米=(　　)米
2角=(　　)元
15角=(　　)元

◆ 在○里填“>”“<”或“=”。

1.2元○1.5元
3.7米○4米
2.8吨○1.9吨
5.4千克○4.5千克
7.9克○8.8克
12.4千米○10.7千米
8.5元○7.8元
3.9平方米○4.1平方米
5.2米○4.7米
3.9元○3.8元
15吨○24.9吨
3.7千克○2.7千克
0.6克○0.1克
8.8元○9元

8.5−2.1=
2.4+3.4=
0.9+0.7=
3.6−1.2=
5−0.7=
8.4−1.7=
13+0.7=
3.2+1.9=
4.2+0.9=
7.4−1.5=
8.2+1.8=
4.9−1.1=
12.4−1.2=
20.4−2.4=
9.3−1.7=
8.4+1.5=

B组 变式口算题

1. 我是小法官。

(1)6.51读作六点五十一。(　　)　(2)7分米=$\frac{7}{10}$米=0.7米。(　　)

(3)6元比5元1角多0.9元。(　　)　(4)0.8米>15分米。(　　)

2. 小新从家到学校要走1.2千米，今天早晨他走了0.3千米后又返回家中取了一本书，他今天上学一共走了(　　)千米，这样他比平时上学多走(　　)千米。

关注微信公众号“教辅资料站”获取更多学习资料

练习8 数学广角——搭配（二）

用时：____分____秒 错误：　个

A组 常规口算题

23 ×3 =	450 ÷3 =	13 ×60 =
720 ÷8 =	12 ×400 =	960 ÷8 =
114 ×2 =	126 ÷3 =	24 ×5 =
31 ×40 =	233 ×2 =	25 ×4 =
328 ÷4 =	37 ×2 =	363 ÷3 =
502 ×4 =	279 ÷3 =	104 ×7 =
91 ÷7 =	38 ÷2 =	93 ÷3 =
52 ×3 =	19 ×40 =	43 ×200 =
321 ÷3 =	804 ÷4 =	420 ÷3 =
408 ÷8 =	121 ×4 =	423 ×2 =
630 ÷6 =	918 ÷9 =	320 ×5 =
73 ×30 =	53 ×30 =	8100 ÷9 =
840 ÷6 =	213 ÷3 =	170 ×3 =
190 ×3 =	110 ×7 =	108 ÷2 =
100 ÷4 =	140 ÷5 =	99 ÷3 =
72 ÷4 =	639 ÷9 =	680 ÷4 =

B组 变式口算题

1. 动物园入口处有一扇密码门，这扇门的密码是由 9，6，8，3 这几个数字中的两个数字组成的（有先后顺序），密码可能有（　　）种情况。

2. 从可可家到少年宫有 A，B 两条路可走，从少年宫到学校有 C，D，E 三条路可走，从可可家到学校共有（　　）条路可走。

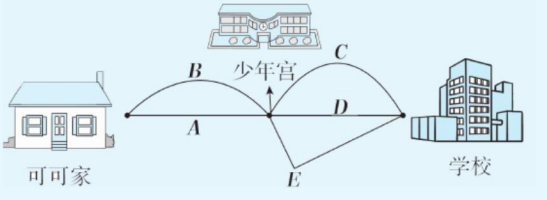

关注微信公众号“教辅资料站”获取更多学习资料



口算能力期末综合测评（一）

用时：____分____秒　错误：　个

90 × 12 =	35 × 2 =	450 ÷ 9 =
17 × 5 =	86 ÷ 2 =	208 ÷ 4 =
26 ÷ 2 =	150 × 4 =	62 × 4 =
630 ÷ 9 =	23 × 12 =	966 ÷ 3 =
21 × 24 =	872 ÷ 8 =	510 × 6 =
78 ÷ 3 =	108 ÷ 2 =	910 ÷ 7 =
140 × 3 =	18 × 50 =	12 × 41 =
804 ÷ 2 =	842 ÷ 2 =	369 ÷ 3 =
33 × 20 =	309 ÷ 3 =	407 × 6 =
84 ÷ 4 =	320 × 3 =	19 × 3 =
31 × 50 =	32 × 11 =	484 ÷ 4 =
455 ÷ 5 =	480 ÷ 3 =	93 × 20 =
91 × 7 =	92 ÷ 4 =	26 × 30 =
546 ÷ 6 =	13 × 8 =	189 ÷ 9 =
260 × 2 =	69 ÷ 3 =	340 × 2 =
74 ÷ 2 =	114 × 2 =	618 ÷ 6 =
142 × 2 =	140 ÷ 5 =	210 × 9 =
306 ÷ 6 =	721 ÷ 7 =	82 × 30 =
43 × 21 =	27 × 20 =	350 ÷ 7 =
284 ÷ 4 =	324 ÷ 4 =	414 × 2 =
77 ÷ 7 =	321 × 3 =	405 ÷ 5 =
369 ÷ 9 =	720 ÷ 8 =	408 ÷ 8 =
810 ÷ 3 =	123 × 3 =	510 ÷ 5 =
107 × 6 =	273 ÷ 3 =	510 × 2 =
810 ÷ 9 =	216 ÷ 4 =	328 ÷ 4 =
640 ÷ 2 =	131 × 3 =	121 × 40 =



关注微信公众号“教辅资料站”获取更多学习资料

口算能力期末综合测评（二）

用时：____分____秒 错误：　个

16 ×4 =	3.7 +1.1 =	4 平方米 =（　　）平方分米
35 ×20 =	4.8 −1.5 =	900 平方厘米 =（　　）平方分米
108 ×5 =	9.4 +0.3 =	1200 平方分米 =（　　）平方米
60 ×90 =	8.7 −1.2 =	（　　）平方米 =700 平方分米
12 ×300 =	12.4 +0.7 =	（　　）平方分米 =2 平方米
85 ÷5 =	7.9 −1.7 =	（　　）平方厘米 =6 平方分米
910 ÷7 =	6.4 +1.6 =	14 平方米 =（　　）平方分米
505 ÷5 =	3 −0.7 =	5 平方分米 =（　　）平方厘米
310 ×4 =	12.4 +10 =	37 平方分米 =（　　）平方厘米
48 ×20 =	5.9 −1.7 =	（　　）平方米 =100 平方分米
960 ÷3 =	8.8 +0.2 =	（　　）平方分米 =1500 平方厘米
12 ×14 =	12.7 −1.2 =	（　　）平方厘米 =3 平方分米
105 ÷5 =	18.4 +1.2 =	25 平方米 =（　　）平方分米
366 ÷6 =	16.3 −1.3 =	3800 平方厘米 =（　　）平方分米
309 ÷3 =	28.7 +2 =	6200 平方分米 =（　　）平方米
80 ×12 =	0.9 +0.4 =	6 平方米 =（　　）平方厘米
108 ÷2 =	21.3 +2.1 =	4900 平方分米 =（　　）平方米
427 ÷7 =	21.3 −2.1 =	27 平方米 =（　　）平方分米
240 ÷6 =	9.5 +1.5 =	3500 平方厘米 =（　　）平方分米
720 ÷8 =	12.8 −1.1 =	80000 平方厘米 =（　　）平方米
123 ÷3 =	8.4 −1.6 =	42 平方米 =（　　）平方分米
900 ÷6 =	9.7 −1.5 =	5 小时 =（　　）分钟
123 ×2 =	2.7 +1.6 =	180 秒 =（　　）分钟
840 ÷8 =	12.3 −1.7 =	6 分钟 =（　　）秒
306 ÷6 =	8.6 −1.7 =	48 小时 =（　　）日
17 ×40 =	2.5 +1.3 =	240 分钟 =（　　）小时

关注微信公众号“教辅资料站”获取更多学习资料

参考答案

第1单元 练习1（第1页）

A组

39	710	670
37	20	43
30	48	2
530	420	640
470	67	400
50	670	41
39	23	32
450	620	190
56	9	260
970	520	610
910	530	110
27	31	25
500	2	33
34	460	720
46	59	28
47	40	90

B组

1. 南　西　东

2. 南　3. 南

练习2（第2页）

A组

210	57	80
6	1800	7
88	450	33
115	720	111
4800	76	88
68	210	11
270	2500	430
90	7	23
48	500	400
3	880	290
129	100	99
155	63	84
260	1200	980
600	59	38
96	224	351
84	7	390

B组

1. 北　南

2. 西　南

3. 电视台　邮局

练习3（第3页）

A组

100	260	35
220	69	33
800	1600	158
7	9	510
78	900	800
200	690	3
5	255	41
56	160	52
3000	400	530
65	137	320
105	650	25
88	36	316
0	8	98
180	710	12
9	270	1400
61	2107	67

B组

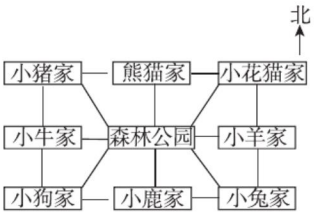

练习4（第4页）

A组

41	60	110
180	720	84
44	640	145
7	980	150
64	168	530
330	86	72
960	790	8
39	147	700
45	8	270
240	930	6
52	64	24
6	36	9
28	760	500
93	47	3
72	67	78
1215	84	0

B组

1. 布店　东

2. 东北　东北

3. 东　东

请沿此虚线裁剪下使用

关注微信公众号“教辅资料站”获取更多学习资料

练习5（第5页）

A组

330	144	>
84	1800	<
600	85	<
220	3600	>
190	150	=
103	60	<
168	900	>
8	9	>
219	750	<
810	180	<
44	680	<
600	428	>
240	800	=
1290	500	<
3000	20	>
960	1200	

B组

1.

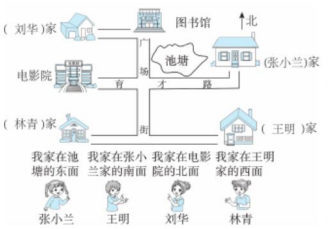

2.（1）东　图书馆　南　育才路　西

（2）见1题图。

第一单元口算能力测试

（第6页）

A组

72	79	8
300	65	6
62	48	304
700	28	99
6	192	156
860	500	4
4000	180	41
82	82	38
0	840	99
7	989	4
28	600	3
97	1600	63
90	690	40
9	940	37
102	340	3
4500	102	3

B组

1. 南　西南

2. 小鹿　东　东　南　东南　东南

第2单元　练习1（第7页）

A组

10	3	12
30	33	20
9	21	23
22	1000	1000
3000	300	31
22	40	300
1000	100	200
12	9	11
200	41	10
32	30	8
20	4000	32
6	14	11
43	23	53
13	100	100
200	2000	1000
10	100	50

B组

1. 200　3000

2. 20

3. 100　400

4. 40

练习2（第8页）

A组

5	490	800
50	90	60
120	11	50
30	160	300
32	60	6400
30	700	800
400	60	80
70	400	100
50	21	80
300	11	69
31	270	42
32	280	23
60	13	280
40	40	33
21	400	60
180	50	600

B组

1. 30　20　2. 30

3. 30　4. 300

练习3（第9页）

A组

40	70	2000
100	900	32
22	13	21
24	300	50
50	800	800
30	41	100
600	40	43
32	20	70
80	70	80
2000	33	22
400	900	20

请沿此虚线裁剪下使用

关注微信公众号“教辅资料站”获取更多学习资料

31	1000	23
14	50	800
50	70	20
12	13	21
11	23	12

B 组

1. A　D　2. C　3. C

练习 4（第 10 页）

A 组

12	20	90
23	21	900
350	420	150
600	300	5400
100	80	30
68	270	40
60	90	900
12	2000	480
800	41	4900
80	60	50
4900	13	200
66	900	900
72	60	280
80	51	180
200	100	500
50	33	80

B 组

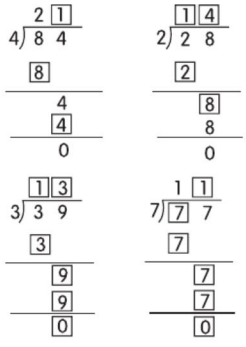

练习 5（第 11 页）

A 组

11	800	13
184	11	29
34	810	50
90	17	500
26	1500	99
48	40	2000
129	80	11
7	4000	14
43	500	60
17	41	52
102	23	300
22	14	900
40	0	80
75	124	24
54	430	135
9	32	72

B 组

1. 12　180

2.

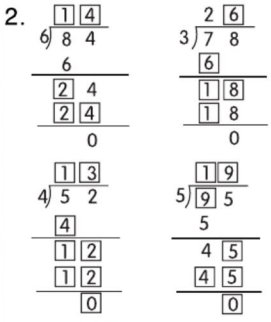

练习 6（第 12 页）

A 组

113	13	243
21	70	224
11	222	12
90	12	31
14	17	112
132	16	16

14	212	11
300	15	36
100	200	233
214	50	13
19	124	40
50	19	70
18	60	212
111	13	50
21	13	60

B 组

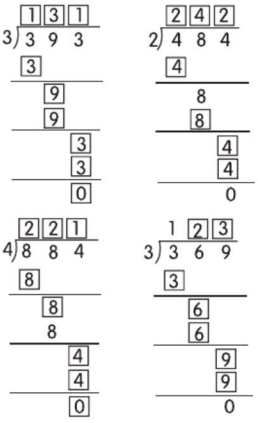

练习 7（第 13 页）

A 组

13	91	19
17	24	27
81	16	10
242	26	61
31	51	90
93	91	81
15	51	63
81	324	63
15	41	144
123	83	13
44	112	12
62	25	21
114	23	19
42	11	8

请沿此虚线裁剪下使用

关注微信公众号“教辅资料站”获取更多学习资料

71　23　34
11　80　30

B组

1.（1）×　（2）×
2.（1）6，7，8，9　5
（2）40

练习8（第14页）

A组

83　24……2　19……2
31　16……3　32……2
19……2　46……1　34……1
21……1　20……2　72
19……1　12……2　29……2
13……6　14……2　24……3
17……2　61……3　81
82　41……4　11……2
91　92……1　31
91　6……3　19……1
61　91　22……2
100　60　21……3
70……5　72　43……1
71　15……3　71
62　51　14……5
41……3　22……2　26……2
174　9……1　21

B组

1. 6　131
2. 41　2
3. 91　1

练习9（第15页）

A组

401　209　30
103　81　204
21　105　104
201　109　106
108　101　109
201　17　106
309　32　203
208　0　107
17　16　107
203　71　0
0　204　409
103　104　307
19　408　307
106　41　27
80　208　18

B组

$\begin{array}{r} 201 \\ 4\overline{)804} \\ 8 \\ \hline 4 \\ 4 \\ \hline 0 \end{array}$　$\begin{array}{r} 209 \\ 3\overline{)627} \\ 6 \\ \hline 27 \\ 27 \\ \hline 0 \end{array}$

$\begin{array}{r} 102 \\ 3\overline{)306} \\ 3 \\ \hline 6 \\ 6 \\ \hline 0 \end{array}$　$\begin{array}{r} 109 \\ 2\overline{)218} \\ 2 \\ \hline 18 \\ 18 \\ \hline 0 \end{array}$

练习10（第16页）

A组

60　200　230
100　160　240
50……7　12　220
14　40……4　250
130　210　340
120　130　70……1
60……1　410　490
150　47　140
130　17　50
18　140　70
13　310　130
210……1　110　170
40……4　120　290
150　60……7　90……3
190　212……1　25
42　210　17

B组

1.（1）80　210　（2）130
2. 40　41　3.45

练习11（第17页）

A组

204　40……7　130
120　105　140
201　410　105
30　104　208
105　50……5　103
170　190……1　430
106　201　209
310……2　270　50……3
206　103　107
150　90……5　150
102　104　104
130……2　150　131
304　101　101
220　60……4　120
310　180　104

B组

1. 2　1
2. $\begin{array}{r} 210 \\ 4\overline{)840} \\ 8 \\ \hline 4 \\ 4 \\ \hline 0 \end{array}$　$\begin{array}{r} 260 \\ 3\overline{)780} \\ 6 \\ \hline 18 \\ 18 \\ \hline 0 \end{array}$

$\begin{array}{r} 75 \\ 9\overline{)679} \\ 63 \\ \hline 49 \\ 45 \\ \hline 4 \end{array}$　$\begin{array}{r} 90 \\ 5\overline{)453} \\ 45 \\ \hline 3 \end{array}$

练习12（第18页）

A组

203　150　70
101　103　30
200　107　70

请沿此虚线裁剪下使用

关注微信公众号“教辅资料站”获取更多学习资料

30	106	60
120	190	20
91	103	10
180	170	50
70	230	180
108	100	30
60	109	20
102	240	40
208	109	50
220	70	40
103	207	120
310	120	70
107	320	50

B 组

1. 140　2. 11

3. 够　4. 11

练习 13（第 19 页）

A 组

210	140	>
130	109	>
220	105	<
102	490	>
402	250	<
300	20	>
80	104	<
105	309	<
106	80	>
107	209	>
150	307	<
160	63	>
180	104	=
206	208	>
101	130	>

160　170

81　91

B 组

1. 182 ÷ 6　487 ÷ 7　454 ÷ 5
　　√　　√　　√

2. 70

第 2 单元口算能力测试

（第 20 页）

A 组

14	12	50
320	107	30……3
14	105	15
190	12	105
102	106	206
203	103	50
60	11	101
15	201	23
60	91	104
14	106	13
108	12	40……6
207	106	34
11	212	130
107	16	170
130	218	207
50	304	107……2

B 组

1. (1) ×　(2) ×　(3) ×

2. (1)90　(2)15

第 3 单元　练习 1（第 21 页）

A 组

50	140	70
121	32	44
80	201	23
104	105	204
120	190	134
80	410	90
91	13	105
208	24	103
14	1000	110
13	96	102
301	106	206
420	309	111
486	140	90
200	660	140
0	3600	22
84	11	13

B 组

人数 / 时间 / 班级	40 分钟以下	40 ~ 60 分钟	60 分钟以上
三(1)班	15	21	12
三(2)班	21	17	11

1. 21

2. 三(2)

练习 2（第 22 页）

A 组

17	61	>
43	62	>
30	102	=
71	70	<
104	330	<
30	140	>
202	140	>
70	61	<
80	27	<
104	47	<
150	42	=
3000	0	<
103	30	<
50	70	>
60	160	<

31　13

52　29

请沿此虚线裁剪下使用

关注微信公众号“教辅资料站”获取更多学习资料

B组

1. 三(2)
2. 三(2)
3. 围棋

第3单元口算能力测试

（第23页）

A组

9	150	130
70	25	104
103	123	105
83	61	72
70	70	60
90	210	47
129	22	17
71	98	213
104	28	31
320	166	213
82	19	91
103	50	51
120	11	90
68	109	104
4200	203	403
500	270	76

B组

人数 / 性别 / 组别	男	女
游泳小组	8	6
唱歌小组	3	5
爬山小组	3	4
美术小组	4	6

1. 游泳　爬山
2. 唱歌　爬山　3

第4单元 练习1（第24页）

A组

72	180	248
720	60	680
75	0	520
750	480	900
92	105	37
920	880	3000
68	74	164
680	92	760
86	450	128
860	980	990
85	1800	147
850	78	1700
78	84	99
780	840	840
94	840	1200
940	700	810

B组

1.

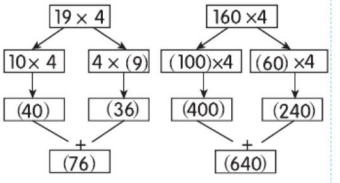

2. 132

练习2（第25页）

A组

80	560	750
120	170	68
70	90	3600
930	420	900
2800	75	4800
162	760	880
670	8400	9300
640	260	760
9600	80	590
1620	800	800
990	680	720
360	840	700
120	87	720
2160	3700	650
1060	1120	1260
1350	780	1600

B组

1. (1)960
   (2)90
   (3)1050
2. 240

练习3（第26页）

A组

3900	750	=
700	9600	>
9900	6000	>
560	1860	<
880	1140	<
780	5600	>
1590	720	>
840	1660	<
800	7000	>
760	9300	=
950	720	>
7400	1240	<
760	480	>
6400	800	>
690	960	<
940	6600	
1350	1920	

请沿此虚线裁剪下使用

关注微信公众号“教辅资料站”获取更多学习资料

B组

1. 300　1800

2. 72　1440

3. 500

练习4（第27页）

A组

480	520	720
72	140	1050
170	146	680
85	840	68
640	990	48
96	126	460
720	130	520
72	77	80
530	870	780
159	1060	760
1240	141	1050
248	1530	660
144	78	960
860	210	153
570	225	2160
114	1220	76

B组

1.

$$\begin{array}{r} 18 \\ \times\ 14 \\ \hline 72 \\ 18 \\ \hline 252 \end{array}$$

72……工作（4）小时加工（72）个零件

18……工作（10）小时加工（180）个零件

252……工作（14）小时加工（252）个零件

2. 231　242　253

264　275　286

练习5（第28页）

A组

140	54	>
720	700	>
394	404	=
596	128	>
660	92	<
104	377	>
740	992	<
720	406	>
399	26	>
120	114	>
780	690	<
806	619	>
960	1060	<
87	867	<
950	7000	

B组

1.

$$\begin{array}{r} 23 \\ \times\ 13 \\ \hline 69 \\ 23 \\ \hline 299 \end{array}$$

$$\begin{array}{r} 42 \\ \times\ 12 \\ \hline 84 \\ 42 \\ \hline 504 \end{array}$$

$$\begin{array}{r} 21 \\ \times\ 13 \\ \hline 63 \\ 21 \\ \hline 273 \end{array}$$

$$\begin{array}{r} 12 \\ \times\ 12 \\ \hline 24 \\ 12 \\ \hline 144 \end{array}$$

2. 23　690

练习6（第29页）

A组

68	1260	860
880	750	510
700	930	78
760	680	920
81	188	85
840	720	166
900	264	940
132	840	1260
800	78	980
740	870	640
840	660	630
76	960	100
273	900	720
1560	190	460
520	142	720

B组

1.

$$\begin{array}{r} 27 \\ \times\ 14 \\ \hline 108 \\ 27 \\ \hline 378 \end{array}$$

$$\begin{array}{r} 63 \\ \times\ 25 \\ \hline 315 \\ 126 \\ \hline 1575 \end{array}$$

$$\begin{array}{r} 36 \\ \times\ 32 \\ \hline 72 \\ 108 \\ \hline 1152 \end{array}$$

$$\begin{array}{r} 31 \\ \times\ 48 \\ \hline 248 \\ 124 \\ \hline 1488 \end{array}$$

2. 不能　9

练习7（第30页）

A组

1400	900	143
70	57	300
690	960	520
96	141	81
116	720	88
720	1550	960
950	86	135
900	219	440
1300	1240	720
276	750	96
940	178	1080
780	850	380
640	600	660
480	112	92
960	980	108
810	840	1020

B组

1. 600　2. 3

3. 三　四

4. 225

请沿此虚线裁剪下使用

关注微信公众号“教辅资料站”获取更多学习资料

5. 2000　80

6. 336

练习 8（第 31 页）

A 组

680	98	160
870	740	6000
106	700	626
680	123	1800
990	780	2400
340	153	600
159	750	800
132	960	890
960	144	450
950	680	700
990	129	150
96	720	1060
130	510	218
780	810	140
880	600	5900
930	440	74

B 组

1. 300

2. 1440

3. 9000

练习 9（第 32 页）

A 组

84	170	1200
360	740	240
700	105	650
90	780	105
450	171	960
123	760	540
560	900	780
690	630	15
1280	390	13
800	94	780
153	520	2100
78	840	930
750	99	570
140	980	4800
51	780	680
640	370	1600

B 组

1. (1)64　320

　(2)20　320

2. 能　3. 1400

练习 10（第 33 页）

A 组

124	1800	10
1000	3000	60
510	650	50
960	480	60
74	3700	25
165	930	10
860	4200	80
850	2400	31
920	1400	41
98	7200	60
810	2400	14
1860	84	6
184	780	50
1280	240	90
1680	680	15
105	4800	60

B 组

1. 10　2. 300

3. 17　4. 27

练习 11（第 34 页）

A 组

810	170	36
135	990	980
520	900	1800
960	159	500
2040	134	127
78	1680	30
104	2840	17
690	520	1480
1020	780	900
480	720	30
1560	600	60
760	700	10
770	440	70
1280	0	101
1000	1290	108
198	1280	200

B 组

1. (1)30　15

　(2)4　15

2. 15　3. 18

第 4 单元口算能力测试

（第 35 页）

A 组

700	1440	30
380	720	90
780	800	600
680	640	3700
5400	1260	85
120	141	180
1000	810	8
960	90	480
148	880	60
1420	168	494
510	1890	30
720	140	428
580	143	184
106	190	63
990	2000	15
121	750	780

请沿此虚线裁剪下使用

关注微信公众号“教辅资料站”获取更多学习资料

B组

1.(1)√ (2)√ (3)× (4)×

2.840

第5单元 练习1（第36页）

A组

720	1080	750
640	165	800
1020	110	96
960	780	168
150	1260	760
249	1260	195
990	192	252
960	1680	2870
1000	220	660
500	305	900
990	390	540
94	1160	340
1590	330	690
124	324	88
154	910	225
1280	840	405

B组

1. 封面　国旗表面的大小

2. 9　5　10

练习2（第37页）

A组

80	60	平方分米
63	720	平方米
230	81	平方厘米
2400	680	平方分米
960	140	平方米
450	0	米
580	1040	厘米
510	680	分米
201	840	平方厘米
80	80	平方厘米
105	600	米
1400	1600	米
80	100	毫米
1600	2000	平方分米
600	124	平方米
424	500	分米
417	200	

B组

1. 4　8　　2. 4　10

3. 4　10

练习3（第38页）

A组

260	640	45
16	105	450
34	41	24
930	950	70
1350	920	20
81	262	480
180	201	160
1000	1428	300
380	2520	
60	850	
240	50	
120	150	
360	3100	
120	140	
1200	2080	
49	108	

B组

1. 长×宽　（长＋宽）×2

2. 2200　3. 4500

4. 120　　5. 41

练习4（第39页）

A组

200	80	64
14	70	100
402	650	25
126	324	16
15	120	16
90	160	60
184	104	81
96	74	400
96	930	28
51	108	36
42	140	121
420	484	100
680	171	900
164	21	200
1100	100	92
43	150	

B组

1. 6400

2. 16 平方米　16 米

3. 81　4. 20

5. 400

练习5（第40页）

A组

920	60	49
612	120	100
320	150	96
62	120	44
70	26	81
105	240	64
248	126	400
125	96	84
1820		
615		
77		
740		
1800		
38		
40		
250		
2550		

请沿此虚线裁剪下使用

关注微信公众号“教辅资料站”获取更多学习资料

B 组

	长	宽	周长	面积
长方形	10 分米	5 分米	30 分米	50 平方分米
	12 厘米	8 厘米	40 厘米	96 平方厘米
	10 米	5 米	30 米	50 平方米
正方形	边长	6 米	24 米	36 平方米
		10 厘米	40 厘米	100 平方厘米
		8 分米	32 分米	64 平方分米

练习 6（第 41 页）

A 组

300　100
600　4
3　6
400　700
3　800
2　900
3000　11
700　4000
6　1500
100　1
2　3700
7　9
500　2100
1200　900
5000　800
1400　3400

B 组

1. 100　1
2. 256　20　400　4
3. 2　10

练习 7（第 42 页）

A 组

500　6
400　100
7　1000
300　200
14　17
2300　43
20　9
4200　300
900　6
7　800
12　2200
400　35
6　10
7700　8
1　2
2500　3000

B 组

1. 4500　45
2. (1)16　200　(2)16　160

练习 8（第 43 页）

A 组

800　740　25
150　1830　70
910　300　120
600　61　81
920　106　121
105　500　2250
204　160　70
120　105　16
132　108
122　248
255　510
840　960
680　960
1590　0
640　61
1680　0

B 组

1. 20000　2. 6400
3. 49　21

第 5 单元口算能力测试

（第 44 页）

A 组

1300　20　16
780　154　4
344　54　16
189　80　81
21　840　25
520　1650　9
140　77　4
980　300　64
3060
20
101
494
180
920
184
1280
1680

B 组

1. ×　2. √　3. ×
4. ×　5. ×　6. ×

第 6 单元　练习 1（第 45 页）

A 组

90　600　80
260　108　22
696　18　130
720　680　630
51　400　540
13　990　900
61　46　13
1590　1290　90
13　104　1080
960　900　321
960　9　105
90　1140　71

请沿此虚线裁剪下使用

关注微信公众号“教辅资料站”获取更多学习资料

102	104	760
24	220	82
156	680	103
109	434	2000

B组

1. 12　1月,3月,5月,7月,8月,10月,12月　大
4月,6月,9月,11月　小

2. 28　3.7　5　4.4　3

练习2（第46页）

A组

100	510	51
160	880	780
12	11	990
60	1530	800
600	102	17
690	1560	204
626	760	860
900	123	1000
2760	47	960
95	31	14
15	98	270
51	106	29
1850	107	990
403	740	70
105	1640	41
42	780	2760

B组

1. (1) ×
(2) ×
(3) ×

2. 略。根据实际情况回答即可。

3. 1949　70

练习3（第47页）

A组

840	140	闰年
200	740	闰年
70	51	平年
840	990	闰年
750	2000	闰年
33	63	平年
104	470	闰年
51	31	平年
109	369	平年
800	2500	平年
98	40	闰年
155	2400	闰年
860	101	闰年
280	756	闰年
97	52	闰年
4620	2700	平年
78	600	
186	121	

B组

1. 2　29　2. 60

3. 2011　2　23　4. 68

练习4（第48页）

A组

16:45	下午3:40	590
10:15	上午9:25	2400
2:30	下午2:15	6
12:05	晚上8:20	80
20:00	半夜12时	101
17:30	晚上11:14	140
24时（或0时）	晚上7:00	5900
		30
7:20	晚上8:00	71
9:15	早晨7:15	190
12:30	上午10:18	200
15:20	上午9:08	184
16:05	中午12:12	2170
21:20	下午2:07	60
22:08	下午4:24	1240
8:50	下午5:50	928

B组

1. 7　2. 28

3. 7小时30分钟　4. 9　30

练习5（第49页）

A组

650	105	120
960	61	5
279	13	72
4270	220	2
105	130	3
140	700	300
14	100	180
32	176	4
315	18	6
108	480	2
102	990	240
70	27	360
2800	203	9
29	11	7
29	120	480
121	18	120

B组

1. 1　45



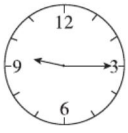

请沿此虚线裁剪下使用

关注微信公众号“教辅资料站”获取更多学习资料

2. 240

练习 6（第 50 页）

A 组

160	45	72
19	624	240
700	14	4
750	51	5
19	120	2
780	108	1
219	208	3
151	24	360
80	103	3
9	840	300
100	115	6
390	180	660
230	43	8
106	1260	600
106	880	540
680	330	180

B 组

1. 超市　4 小时

2. 29 小时 27 分钟

第二天 7: 48　15:15

第 6 单元口算能力测试

（第 51 页）

A 组

70	470	123
972	510	182
600	71	520
28	600	105
106	31	424
450	108	900
11	640	81
76	420	87
402	60	740
6300	15	110
78	4	22
71	81	1260
1230	1240	190
180	32	129
26	1530	16
680	360	42

B 组

1. A　2. B　3. C

制作活动日历

（第 52 页）

A 组

740	17:00	360
108	9:20	180
180	下午 5:25	2
856	上午 9:10	300
107	下午 2:04	420
450	12:20	72
104	20:10	6
123	4:05	240
168	23:58	300
51	晚上 7:35	3
900	晚上 11:30	60
103	15:40	420
12	早晨 7:15	5
85	7:02	240
22	半夜 12 时	3
840		120
408		180

B 组

1. 8

2. 早晨 6:20　上午 8:20

上午 10:20　中午 12:20

下午 2:20　下午 4:20

下午 6:20　晚上 8:20

第 7 单元　练习 1（第 53 页）

A 组

100	520	三点四五
960	1880	二点六零
40	14	三十六点六
132	1240	一点二
960	78	零点五
204	107	七点一三
960	21	五点三一
37	68	零点六四
408	810	十二点七
13	71	一点五五
1620	1290	八点三
109	85	一点六七
1260	680	十五点七
61	70	零点九
110	23	十八点二
105	13	一点八二

B 组

1. 0.3　0.7　4.6

2. 0.4　$\frac{9}{10}$　0.9　7.8

练习 2（第 54 页）

A 组

1200	369	八点二
780	2250	九点七
19	220	零点四五
41	480	三十一点二
484	71	八点零六
102	972	十二点四
1260	520	八十点一
740	16	五点七四
484	3060	六点三

请沿此虚线裁剪下使用

关注微信公众号“教辅资料站”获取更多学习资料

81	850	二点七零
43	23	零点三
108	2870	二十五点五
6600	12	三点零五
230	27	十四点一
18	1000	零点四一
403	51	三点九

B 组

1. $\frac{4}{10}$ 0.4 7.2

2. $\frac{7}{10}$ 0.7 9.6

3. $\frac{1}{10}$ 0.1 $\frac{4}{10}$ 0.4 $\frac{7}{10}$ 0.7

4. 2.6

练习 3（第 55 页）

A 组

14	450	<
690	880	>
120	17	>
840	100	<
49	1860	>
150	105	<
91	13	>
640	70	<
170	535	<
203	81	>
102	510	<
240	212	<
960	330	<
37	76	<
106	55	>
780	104	

B 组

1. (1)5.8 > 4.7 > 3.5 > 3.1
   (2)23 > 13.5 > 12.5 > 10.9

2.

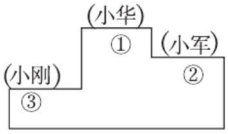

练习 4（第 56 页）

A 组

0.8	0.1	2.2
1.2	2.2	2.3
6.8	4.4	4.6
3.1	4.5	4.8
11.4	2.2	1.1
9.9	12.7	15.9
13.9	0.5	17.6
9.8	2.1	16.9
7.3	2.1	1.2
8.6	5.9	8.3
4.7	8	0.9
9.8	4.1	5.3
8.1	5.9	1.2
11	8.1	1.5
44	4.7	6.1
6.6	19.7	7.3

B 组

1. (1)5 (2)66.80
2. (1)1.0 1.2
   (2)3.5 3.2 2.6

练习 5（第 57 页）

A 组

6.9	7.1	>
2.2	2.6	<
10.9	2.7	>
9.5	12.9	>
5.1	15.5	<
6.3	4.6	<
7.6	10.5	<
13.4	5.5	<
5	6.2	>
2.9	9.9	>
14.9	6	>
1.5	2.3	>
1.3	13.8	<
6.8	1.1	>
14.7	9.7	>
8.6	6.9	
5.5	12.7	

B 组

1. (1) × (2)√
   (3) × (4) ×
2. (1)14.9 (2)5.1

练习 6（第 58 页）

A 组

6.3	5.9	8.5
10.5	3.9	6.9
9.1	10.3	5.6
9.7	16.7	3.9
3.1	18.6	11.1
21.1	8	2.5
4.4	8	7.1
12.6	4.9	8.5
13.5	1.2	2
8.9	2.2	9.7
1.2	0.8	2.8
1.1	0.8	3.6
9.7	4	2.3
1.5	9.9	10.8
4.9	3.6	2.3
5.9	1.9	18

B 组

1. 6.7 2. 2.2
3. 1.4 0.6 4 4. 不能

第 7 单元口算能力测试

（第 59 页）

A 组

5.3 18.1 >

请沿此虚线裁剪下使用

关注微信公众号“教辅资料站”获取更多学习资料

4.2	1.5	>
1.8	0.6	<
8.9	6.3	<
1.7	5.3	<
2.1	0.2	<
1.1	1.2	<
57.5	7	>
1.7	3.6	<
5.9	3	<
4.3	0	>
3.7	0.4	=
6.9	6.8	<
18.4	5.7	
3.5	0.8	

B组

1. D　2. D　A　3. D

第8单元　练习1（第60页）

A组

78	540	>
80	50	<
510	80	>
91	112	<
13	78	<
2400	340	>
420	157	>
103	250	<
102	64	>
75	960	<
60	20	>
403	353	=
660	100	=
22	90	>
960	300	<
215	244	

B组

1. 9　30，36，38，60，63，68，80，83，86

2. 12　6　32，42，52，34，24，54

3. 6　4. 6

练习2（第61页）

A组

0.6	16
3	1
400	6
2.3	2.3
72	0.5
1	2
0.9	7
5	59
200	1.2
8	2
30	2
0.6	5
1	1
14	1.2
7.4	3.7
120	3

B组

8

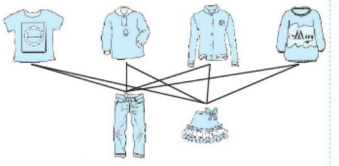

练习3（第62页）

A组

13.7	6.2	>
6.7	8.8	>
9.9	4.6	>
4	0.9	<
8.2	5.1	<
6.8	0.8	<
19.1	11.9	>
4.8	14.4	>
1.6	14.1	<
0.4	1.2	<
3.6	6	<
9	9.6	>
8.1	13.8	<
11.1	8.7	<
18	5.8	>
8.1	8.4	

B组

1. 10　70　6

2. (1)6　(2)3　3. 10

第8单元口算能力测试

（第63页）

A组

15	70	14
310	680	248
99	80	241
60	16	41
1206	520	19
121	102	110
800	302	91
103	1260	1260
27	13	51
840	760	650
84	105	80
41	810	6300
700	13	41
0	2050	216
103	279	260
660	0	484

B组

1. 6　2. 6　3. 10　4. 6

我们的校园

（第64页）

A组

520	770	40
15	240	188
440	76	29
84	27	540
203	104	123
840	840	963
106	80	61
808	1470	540
484	380	14
102	19	3680

请沿此虚线裁剪下使用

关注微信公众号“教辅资料站”获取更多学习资料

800	92	60
570	32	780
52	900	51
124	150	262
680	130	70
130	960	530

B 组

1. 600　2. 3000　3. 9000

第9单元　练习1（第65页）

A 组

730	900	14
370	840	110
72	465	81
103	630	53
14	106	122
740	190	1890
180	70	323
105	300	60
110	12	700
960	248	3240
90	840	445
556	60	100
12	270	16
680	963	120
106	21	100
1000	41	430

B 组

1. 图书馆　小军家　游乐场
2. 南　西南
3. 海慧路　北　北　长宁大道　东

练习2（第66页）

A 组

680	60	14
31	940	70
51	190	70
90	21	190
91	159	170
212	206	109
110	105	770
340	1680	105
972	81	41
860	14	690
24	104	51
72	3060	11
112	13	960
91	31	301
646	434	21
90	106	13

B 组

1. (1) ×　(2) ×
   (3) √　(4) √
2. 50

练习3（第67页）

A 组

340	32	>
19	520	>
40	90	<
23	170	>
70	90	<
203	41	>
13	101	>
19	1050	=
248	91	>
140	70	<
28	81	>
27	1240	<
960	105	<
91	70	=
42	102	
81	273	

B 组

中国体育代表团奥运会
获得奖牌情况统计表
（第28～第31届）

数量/枚　届数 / 奖牌	28	29	30	31
金牌	32	51	38	26
银牌	17	21	27	18
铜牌	14	28	23	26

练习4（第68页）

A 组

28	69	240
77	480	520
350	720	2200
760	1530	940
128	420	820
1220	162	128
1290	600	3700
963	248	10
600	621	108
750	770	990
2000	720	2400
1212	3600	1230
640	470	3900
520	910	24
600	4860	330
408	720	840

B 组

1. 30　2. 1800

练习5（第69页）

A 组

30	3
400	84
60	6
2	60
3	60
700	110
21	100
0.4	16
200	1
800	4
900	9
1.7	
1100	
5	
3	
23	

B 组

1. 200　2. 10　3. 49

请沿此虚线裁剪下使用

关注微信公众号“教辅资料站”获取更多学习资料

练习6（第70页）

A组

72	960	80
50	414	107
221	900	3680
480	24	120
42	2107	808
284	126	249
91	90	81
140	1260	12
101	68	242
650	91	1050
810	55	313
21	630	123
742	355	1812
61	104	0
90	103	287
72	21	1600

B组

1. B　2. D　3. C

练习7（第71页）

A组

4.6	<	6.4
0.7	<	5.8
1.4	>	1.6
0.5	>	2.4
2.1	<	4.3
3.3	>	6.7
1.2	>	13.7
0.8	<	5.1
3.4	>	5.1
12.3	>	5.9
7.7	<	10
0.1	>	3.8
0.3	>	11.2
0.9	<	18
0.2		7.6
1.5		9.9

B组

1. (1) ×　(2) √
(3) √　(4) ×

2. 1.8　0.6

练习8（第72页）

A组

69	150	780
90	4800	120
228	42	120
1240	466	100
82	74	121
2008	93	728
13	19	31
156	760	8600
107	201	140
51	484	846
105	102	1600
2190	1590	900
140	71	510
570	770	54
25	28	33
18	71	170

B组

1. 12　　2. 6

口算能力期末综合测评（一）

（第73页）

1080	70	50
85	43	52
13	600	248
70	276	322
504	109	3060
26	54	130
420	900	492
402	421	123
660	103	2442
21	960	57
1550	352	121
91	160	1860
637	23	780
91	104	21
520	23	680
37	228	103
284	28	1890
51	103	2460
903	540	50
71	81	828
11	963	81
41	90	51
270	369	102
642	91	1020
90	54	82
320	393	4840

口算能力期末综合测评（二）

（第74页）

64	4.8	400
700	3.3	9
540	9.7	12
5400	7.5	7
3600	13.1	200
17	6.2	600
130	8	1400
101	2.3	500
1240	22.4	3700
960	4.2	1
320	9	15
168	11.5	300
21	19.6	2500
61	15	38
103	30.7	62
960	1.3	60000
54	23.4	49
61	19.2	2700
40	11	35
90	11.7	8
41	6.8	4200
150	8.2	300
246	4.3	3
105	10.6	360
51	6.9	2
680	3.8	4

请沿此虚线裁剪下使用

关注微信公众号“教辅资料站”获取更多学习资料



口算脑算用心算
巧算速算不难算

荣德基官方网站:
http://www.rudder.com.cn

荣德基天猫旗舰店:
http://rongdeji.tmall.com

荣德基小学频道
获取最新教育资讯

荣德基教育APP
让教和学变得简单

ISBN 978-7-5336-8984-1
9 787533 689841
定价:21.90元

关注微信公众号“教辅资料站”获取更多学习资料