荣德基小学系列

荣德基 主编



星级口算天天练

教辅资料站

电子教辅　试卷练习
知识总结　备课资源

三年级 数学 下（BS版）

扫码关注获取更多学习资料

时代出版传媒股份有限公司
安徽教育出版社

常规好题题题好　变式妙题道道妙

荣德基
星级口算天天练
三年级数学 下
BS版
时代出版传媒股份有限公司

荣德基小学系列

星级口算天天练

三年级 数学 下（BS版）

主 编：荣德基　本册主编：刘晓峰



学 校：.....

班 级：.....

姓 名：.....

喜欢的格言：.....

时代出版传媒股份有限公司
安徽教育出版社

关注微信公众号“教辅资料站”获取更多学习资料

图书在版编目（CIP）数据

星级口算天天练. 数学三年级. 下 ：BS版 / 荣德基主编. — 合肥 ：安徽教育出版社，2019

ISBN 978-7-5336-8990-2

Ⅰ. ①星… Ⅱ. ①荣… Ⅲ. ①速算－小学－习题集 Ⅳ. ①G624.565

中国版本图书馆 CIP 数据核字（2019）第 170998 号

星级口算天天练 · 三年级数学下（BS版）

XINGJI KOUSUAN TIANTIANLIAN · SANNIANJI SHUXUE XIA (BS BAN)

出 版 人：费世平
质量总监：武常春
责任编辑：葛明月
责任校对：董亚静
装帧设计：典点瑞泰
责任印制：荣德印务

出版发行：时代出版传媒股份有限公司　安徽教育出版社
地　　址：合肥市经开区繁华大道西路 398 号　邮编：230601
网　　址：http://www.ahep.com.cn
营销电话：(0551) 63683016，63683015
排　　版：北京华艺优创文化发展有限公司
印　　刷：山东润声印务有限公司

开　　本：787×1092　1/16
印　　张：5
字　　数：120 千字
版　　次：2019 年 10 月第 1 版　2019 年 10 月第 1 次印刷
定　　价：21.90 元

（如发现印装质量问题，影响阅读，请与本社营销部联系调换）

微信公众号
教辅资料站

关注微信公众号“教辅资料站”获取更多学习资料

CONTENTS

目录

第一单元 除法

练习1 分桃子 …… 1
练习2 分橘子 …… 2
练习3 商是几位数（一） …… 3
练习4 商是几位数（二） …… 4
练习5 猴子的烦恼（一） …… 5
练习6 猴子的烦恼（二） …… 6
练习7 节约（一） …… 7
练习8 节约（二） …… 8
练习9 复习课 …… 9
练习10 集邮 …… 10
练习11 买新书 …… 11
练习12 讲故事 …… 12
练习13 习题课 …… 13
第一单元口算能力测试 …… 14





第二单元 图形的运动

练习1 轴对称（一） …… 15
练习2 轴对称（二） …… 16
练习3 平移和旋转（一） …… 17
练习4 平移和旋转（二） …… 18
第二单元口算能力测试 …… 19

第三单元 乘法

练习1 找规律 …… 20
练习2 队列表演（一） …… 21
练习3 队列表演（二） …… 22
练习4 电影院 …… 23
练习5 习题课 …… 24
练习6 习题课 …… 25
第三单元口算能力测试 …… 26



微信公众号 教辅资料站

关注微信公众号“教辅资料站”获取更多学习资料



整理与复习

练习1　除法 …… 27
练习2　图形的运动 …… 28
练习3　乘法 …… 29

第四单元　千克、克、吨

练习1　有多重 …… 30
练习2　1吨有多重 …… 31
第四单元口算能力测试 …… 32



第五单元　面　积

练习1　什么是面积 …… 33
练习2　面积单位 …… 34
练习3　长方形的面积（一） …… 35
练习4　长方形的面积（二） …… 36
练习5　面积单位的换算 …… 37
练习6　习题课 …… 38
练习7　习题课 …… 39
第五单元口算能力测试 …… 40

数学好玩

练习1　小小设计师 …… 41
练习2　我们一起去游园 …… 42
练习3　有趣的推理 …… 43
巩固应用（一） …… 44
巩固应用（二） …… 45

微信公众号
教辅资料站

关注微信公众号“教辅资料站”获取更多学习资料



第六单元　认识分数

练习 1　分一分（一）…… 46
练习 2　分一分（二）…… 47
练习 3　比大小…… 48
练习 4　吃西瓜…… 49
练习 5　习题课…… 50
练习 6　习题课…… 51
第六单元口算能力测试　…… 52



第七单元　数据的整理和表示

练习 1　小小鞋店…… 53
练习 2　快乐成长…… 54
第七单元口算能力测试　…… 55

总复习

练习 1　数的认识…… 56
练习 2　数的运算（一）…… 57
练习 3　数的运算（二）…… 58
练习 4　常见的量…… 59
练习 5　图形的认识…… 60
练习 6　图形与测量…… 61
练习 7　图形的运动…… 62
练习 8　图形与位置…… 63
练习 9　统计…… 64
口算能力期末综合测评（一）　…… 65
口算能力期末综合测评（二）　…… 66
参考答案　…… 67



微信公众号 教辅资料站

关注微信公众号“教辅资料站”获取更多学习资料

第一单元 除 法

练习1 分桃子

用时：____分____秒　错误：　个

A组 常规口算题

20 ÷ 2 =	42 × 3 =	30 ÷ 3 =
62 ÷ 2 =	60 ÷ 3 =	15 × 5 =
40 ÷ 2 =	33 ÷ 3 =	40 ÷ 4 =
3 × 90 =	50 ÷ 5 =	80 ÷ 8 =
44 ÷ 4 =	88 ÷ 8 =	46 ÷ 2 =
55 ÷ 5 =	88 ÷ 4 =	36 ÷ 3 =
26 ÷ 2 =	28 ÷ 2 =	24 ÷ 2 =
66 ÷ 3 =	84 ÷ 2 =	48 ÷ 4 =
93 ÷ 3 =	33 × 3 =	99 ÷ 3 =
77 ÷ 7 =	99 ÷ 9 =	42 ÷ 2 =
80 ÷ 4 =	27 × 2 =	17 × 3 =
22 ÷ 2 =	39 ÷ 3 =	66 ÷ 6 =
66 ÷ 2 =	70 ÷ 7 =	86 ÷ 2 =
24 × 2 =	64 ÷ 2 =	48 ÷ 2 =
63 ÷ 3 =	31 × 3 =	90 ÷ 9 =
69 ÷ 3 =	96 ÷ 3 =	68 ÷ 2 =

B组 变式口算题

1. 竖式计算。

$2\overline{)62}$　　$3\overline{)93}$　　$4\overline{)81}$　　$5\overline{)57}$

2. 爷爷今年64岁，是爸爸年龄的2倍，是小华年龄的8倍，爸爸今年(　　)岁，小华今年(　　)岁。

微信公众号 教辅资料站

关注微信公众号“教辅资料站”获取更多学习资料

练习2 分橘子

用时：____分____秒 错误：　个

A组 常规口算题

30 ÷ 2 =	78 ÷ 6 =	(　　) × 3 = 93
34 × 2 =	70 ÷ 5 =	(　　) × 2 = 26
80 ÷ 5 =	12 × 6 =	(　　) × 4 = 36
51 ÷ 3 =	42 ÷ 3 =	(　　) × 5 = 65
60 ÷ 2 =	72 ÷ 2 =	(　　) × 7 = 84
90 ÷ 3 =	58 ÷ 2 =	(　　) × 2 = 46
28 ÷ 2 =	44 ÷ 2 =	(　　) × 8 = 96
90 ÷ 6 =	23 × 3 =	(　　) × 4 = 44
75 ÷ 5 =	38 ÷ 2 =	(　　) × 3 = 72
72 ÷ 4 =	80 ÷ 2 =	(　　) × 3 = 69
14 × 3 =	74 ÷ 2 =	(　　) × 5 = 55
60 ÷ 4 =	95 ÷ 5 =	(　　) × 2 = 36
40 ÷ 4 =	34 ÷ 2 =	(　　) × 5 = 80
91 ÷ 7 =	44 × 3 =	(　　) × 4 = 84
96 ÷ 4 =	46 ÷ 2 =	(　　) × 7 = 28
68 ÷ 4 =	48 ÷ 3 =	(　　) × 5 = 60

B组 变式口算题

1. 竖式计算。

$3\overline{)78}$　　$5\overline{)85}$　　$4\overline{)64}$　　$6\overline{)96}$

2. 6个花圃里共种了84棵月季花，平均每个花圃里种(　　)棵月季花。

微信公众号 教辅资料站

关注微信公众号“教辅资料站”获取更多学习资料

练习3 商是几位数（一）

用时：____分____秒 错误：　个

A组 常规口算题

30 ÷ 3 =	94 ÷ 2 =	36 ÷ 3 =
24 × 2 =	84 ÷ 2 =	87 ÷ 3 =
62 ÷ 2 =	85 ÷ 5 =	82 ÷ 2 =
50 ÷ 2 =	221 × 4 =	88 ÷ 4 =
48 ÷ 4 =	96 ÷ 3 =	99 ÷ 3 =
63 ÷ 3 =	42 ÷ 3 =	55 ÷ 5 =
112 × 3 =	80 ÷ 4 =	90 ÷ 2 =
77 ÷ 7 =	76 ÷ 4 =	65 ÷ 5 =
68 ÷ 2 =	57 ÷ 3 =	54 ÷ 3 =
56 ÷ 2 =	45 ÷ 3 =	92 ÷ 4 =
64 ÷ 4 =	78 ÷ 6 =	15 × 5 =
81 ÷ 3 =	16 × 4 =	63 ÷ 7 =
48 ÷ 2 =	66 ÷ 6 =	70 ÷ 2 =
74 × 5 =	38 ÷ 2 =	52 ÷ 2 =
72 ÷ 6 =	36 ÷ 2 =	76 ÷ 2 =
56 ÷ 4 =	39 ÷ 3 =	27 × 2 =

B组 变式口算题

1. 列竖式计算。

575 ÷ 5 =　　681 ÷ 3 =　　322 ÷ 2 =　　888 ÷ 6 =

2. 李老师带 848 元钱给同学们买奖品，每本笔记本 4 元，用这些钱全部买笔记本，可以买(　　)本。

微信公众号 教辅资料站

关注微信公众号“教辅资料站”获取更多学习资料

练习4 商是几位数（二）

用时：____分____秒 错误：　个

A组 常规口算题

90 ÷ 9 =	52 ÷ 4 =	66 × 2 =
60 ÷ 3 =	60 ÷ 2 =	44 ÷ 4 =
22 ÷ 2 =	88 ÷ 8 =	70 ÷ 5 =
66 ÷ 3 =	80 ÷ 2 =	37 × 3 =
24 ÷ 2 =	48 × 3 =	20 ÷ 2 =
80 ÷ 5 =	92 ÷ 4 =	33 ÷ 3 =
22 × 3 =	18 × 3 =	56 ÷ 4 =
123 × 4 =	66 ÷ 2 =	48 ÷ 8 =
86 ÷ 2 =	54 ÷ 2 =	80 ÷ 8 =
84 ÷ 6 =	72 ÷ 3 =	54 ÷ 3 =
99 ÷ 9 =	60 ÷ 6 =	96 ÷ 8 =
88 ÷ 2 =	84 ÷ 4 =	45 × 5 =
48 ÷ 3 =	12 × 6 =	44 ÷ 2 =
96 ÷ 4 =	64 ÷ 2 =	84 ÷ 3 =
98 ÷ 7 =	78 ÷ 2 =	28 ÷ 2 =
55 × 2 =	93 ÷ 3 =	46 ÷ 2 =

B组 变式口算题

1. 一本《故事书》共414页，计划用3周看完，请同学们算一算，平均每周需要看（　　）页。

2. 超市用一辆汽车运一批大米，4次一共运了624袋，还有492袋没有运。

（1）平均每次运大米（　　）袋。

（2）剩下的如果3次运完，平均每次运（　　）袋。

（3）这批大米一共（　　）袋。

关注微信公众号“教辅资料站”获取更多学习资料

练习5 猴子的烦恼（一）

用时：____分____秒 错误：　个

A组 常规口算题

802 ÷ 2 =	627 ÷ 3 =	150 ÷ 5 =
309 ÷ 3 =	324 ÷ 4 =	816 ÷ 4 =
104 ÷ 4 =	525 ÷ 5 =	728 ÷ 7 =
603 ÷ 3 =	436 ÷ 4 =	530 ÷ 5 =
432 ÷ 4 =	505 ÷ 5 =	545 ÷ 5 =
804 ÷ 4 =	68 ÷ 4 =	954 ÷ 9 =
927 ÷ 3 =	160 ÷ 5 =	609 ÷ 3 =
624 ÷ 3 =	0 ÷ 9 =	642 ÷ 6 =
85 ÷ 5 =	78 ÷ 6 =	856 ÷ 8 =
812 ÷ 4 =	497 ÷ 7 =	0 ÷ 5 =
0 ÷ 4 =	408 ÷ 2 =	818 ÷ 2 =
515 ÷ 5 =	624 ÷ 6 =	921 ÷ 3 =
57 ÷ 3 =	816 ÷ 2 =	614 ÷ 2 =
636 ÷ 6 =	164 ÷ 4 =	81 ÷ 3 =
400 ÷ 5 =	832 ÷ 4 =	72 ÷ 4 =
369 ÷ 3 =	888 ÷ 8 =	360 ÷ 6 =

B组 变式口算题

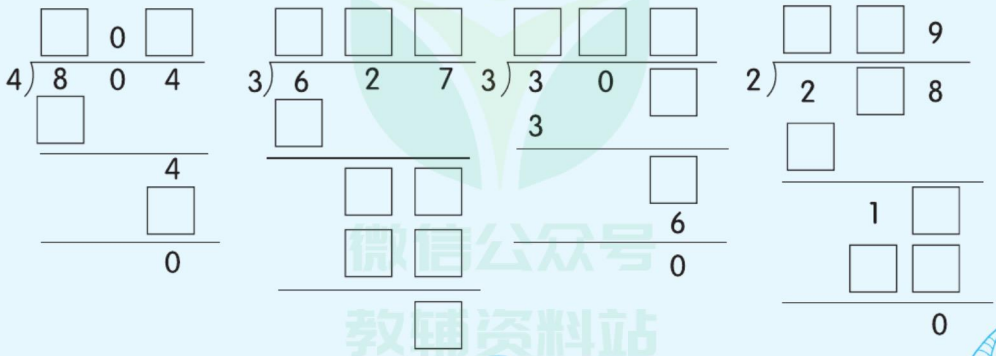

微信公众号 教辅资料站

关注微信公众号“教辅资料站”获取更多学习资料

练习6 猴子的烦恼（二）

用时：____分____秒 错误：　个

A组 常规口算题

360 ÷ 4 =	800 ÷ 4 =	690 ÷ 3 =
500 ÷ 5 =	800 ÷ 5 =	720 ÷ 3 =
450 ÷ 9 =	72 ÷ 6 =	880 ÷ 4 =
42 ÷ 3 =	328 ÷ 8 =	1000 ÷ 4 =
650 ÷ 5 =	633 ÷ 3 =	680 ÷ 2 =
360 ÷ 3 =	910 ÷ 7 =	355 ÷ 5 =
420 ÷ 7 =	820 ÷ 2 =	980 ÷ 2 =
750 ÷ 5 =	94 ÷ 2 =	420 ÷ 3 =
780 ÷ 6 =	95 ÷ 5 =	150 ÷ 3 =
54 ÷ 3 =	560 ÷ 4 =	490 ÷ 7 =
91 ÷ 7 =	620 ÷ 2 =	390 ÷ 3 =
630 ÷ 3 =	440 ÷ 4 =	680 ÷ 4 =
246 ÷ 6 =	960 ÷ 8 =	870 ÷ 3 =
450 ÷ 3 =	549 ÷ 9 =	810 ÷ 9 =
950 ÷ 5 =	636 ÷ 3 =	75 ÷ 3 =
84 ÷ 2 =	840 ÷ 4 =	168 ÷ 4 =

B组 变式口算题

1. 一辆汽车3小时行驶240千米，“和谐号”动车2小时行驶420千米。

(1)汽车每小时行(　　)千米，“和谐号”动车每小时行(　　)千米。

(2)“和谐号”动车每小时比汽车多行(　　)千米。

2. 小华看一本书，打开后左右两页的页码和是81，请你算一算小华打开的是(　　)页和(　　)页。

3. 食堂运进200千克大米，吃了4天后还剩下20千克，平均每天吃(　　)千克大米。

微信公众号 教辅资料站

关注微信公众号“教辅资料站”获取更多学习资料

练习7 节约（一）

用时：____分____秒 错误：　个

A组 常规口算题

408 ÷ 2 =	327 ÷ 8 =	655 ÷ 5 =
366 ÷ 3 =	735 ÷ 7 =	980 ÷ 7 =
603 ÷ 3 =	822 ÷ 2 =	945 ÷ 9 =
120 ÷ 4 =	624 ÷ 6 =	832 ÷ 4 =
525 ÷ 5 =	455 ÷ 9 =	515 ÷ 5 =
850 ÷ 5 =	381 ÷ 2 =	860 ÷ 2 =
636 ÷ 6 =	804 ÷ 4 =	627 ÷ 3 =
932 ÷ 3 =	810 ÷ 3 =	453 ÷ 9 =
824 ÷ 4 =	309 ÷ 3 =	642 ÷ 6 =
450 ÷ 6 =	545 ÷ 6 =	755 ÷ 5 =
714 ÷ 7 =	416 ÷ 4 =	728 ÷ 7 =
782 ÷ 6 =	600 ÷ 4 =	393 ÷ 3 =
912 ÷ 3 =	505 ÷ 5 =	909 ÷ 9 =
840 ÷ 6 =	364 ÷ 6 =	480 ÷ 4 =
930 ÷ 3 =	900 ÷ 5 =	208 ÷ 2 =
381 ÷ 3 =	812 ÷ 1 =	420 ÷ 4 =

B组 变式口算题

1. 800 ÷ 4 的商的末尾有(　　)个0，300 ÷ 5 的商的末尾有(　　)个0。

2.

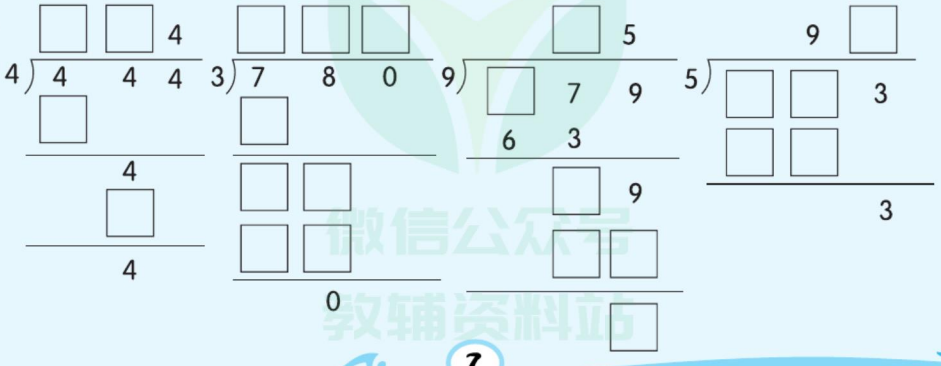

微信公众号 教辅资料站

关注微信公众号“教辅资料站”获取更多学习资料

练习8 节约（二）

用时：____分____秒 错误：　个

A组 常规口算题

406 ÷ 2 =	453 ÷ 3 =	339 ÷ 3 =
545 ÷ 5 =	312 ÷ 3 =	63 ÷ 3 =
600 ÷ 3 =	535 ÷ 5 =	22 ÷ 2 =
150 ÷ 5 =	636 ÷ 3 =	540 ÷ 6 =
480 ÷ 4 =	570 ÷ 3 =	70 ÷ 5 =
728 ÷ 8 =	412 ÷ 4 =	396 ÷ 3 =
900 ÷ 6 =	855 ÷ 5 =	56 ÷ 4 =
560 ÷ 8 =	690 ÷ 3 =	900 ÷ 3 =
324 ÷ 3 =	800 ÷ 8 =	600 ÷ 6 =
420 ÷ 7 =	218 ÷ 2 =	428 ÷ 2 =
918 ÷ 9 =	960 ÷ 4 =	57 ÷ 3 =
836 ÷ 4 =	327 ÷ 3 =	250 ÷ 5 =
880 ÷ 4 =	490 ÷ 7 =	90 ÷ 5 =
721 ÷ 7 =	621 ÷ 3 =	555 ÷ 5 =
369 ÷ 3 =	600 ÷ 5 =	84 ÷ 4 =
642 ÷ 6 =	640 ÷ 2 =	810 ÷ 9 =

B组 变式口算题

1. 把不对的改正过来。

```
   101
7 ) 737
    7
    ---
     7
     7
    ---
     0
```

改正：

```
    30
8 ) 250
    24
    --
     1
```

改正：

2. 判断。（对的打“√”，错的打“×”）

（1）一位数除三位数，商一定是三位数。（　　）

（2）被除数末尾有 0，商的末尾一定有 0。（　　）

3. 一群小朋友想跳绳，他们需要的跳绳每根长 3 米，325 米长的绳子最多能做成（　　）根这样的跳绳。

微信公众号 教辅资料站

关注微信公众号“教辅资料站”获取更多学习资料

练习9 复习课

用时：____分____秒 错误： 个

A组 常规口算题

630 ÷ 3 =
910 ÷ 7 =
884 ÷ 4 =
306 ÷ 3 =
804 ÷ 2 =
909 ÷ 3 =
560 ÷ 7 =
945 ÷ 9 =
530 ÷ 5 =
428 ÷ 4 =
906 ÷ 6 =
480 ÷ 3 =
720 ÷ 4 =
618 ÷ 3 =
424 ÷ 2 =
960 ÷ 6 =

560 ÷ 4 =
327 ÷ 3 =
420 ÷ 4 =
980 ÷ 2 =
500 ÷ 2 =
180 ÷ 9 =
312 ÷ 3 =
618 ÷ 2 =
34 × 3 =
836 ÷ 4 =
921 ÷ 3 =
55 × 4 =
416 ÷ 4 =
848 ÷ 4 =
390 ÷ 3 =
850 ÷ 5 =

◆ 在○里填上“ > ”“ < ”或“ = ”。

464 ÷ 5 ○ 90
537 ÷ 5 ○ 100
324 ÷ 7 ○ 50
180 ○ 640 ÷ 3
40 ○ 390 ÷ 9
267 ÷ 3 ○ 80
424 ÷ 5 ○ 94
304 ÷ 8 ○ 57
86 ○ 400 ÷ 6
97 ○ 500 ÷ 8
30 ○ 700 ÷ 8
487 ÷ 5 ○ 90

B组 变式口算题

1. 王师傅一星期休息 2 天，他一个星期加工了 350 个零件，王师傅平均每天加工（　　）个零件。

2. 王叔叔 4 天加工了 804 个零件，王叔叔平均每天加工（　　）个零件。

3. 同学们到河边种树，河岸长 428 米，在河岸一边每隔 4 米种一棵树（两端都种），共需要种（　　）棵树。

4. 一根长 210 米的铁丝，每 5 米剪成一段，可以剪成（　　）段。

关注微信公众号“教辅资料站”获取更多学习资料

练习10 集邮

用时：____分____秒 错误：　个

A组 常规口算题

162 ÷ 9 =	42 ÷ 3 =	(　　) × 8 = 168
448 ÷ 8 =	640 ÷ 2 =	(　　) × 7 = 434
392 ÷ 8 =	56 ÷ 4 =	(　　) × 5 = 465
27 × 3 =	570 ÷ 3 =	(　　) × 7 = 203
117 ÷ 9 =	816 ÷ 8 =	(　　) × 9 = 369
504 ÷ 9 =	609 ÷ 3 =	(　　) × 9 = 333
252 ÷ 6 =	540 ÷ 9 =	(　　) × 9 = 189
132 ÷ 3 =	75 ÷ 5 =	(　　) × 9 = 459
673 − 9 =	420 ÷ 7 =	(　　) × 5 = 455
148 ÷ 4 =	84 ÷ 6 =	(　　) × 6 = 126
468 ÷ 9 =	324 ÷ 3 =	(　　) × 5 = 355
332 ÷ 4 =	621 ÷ 3 =	(　　) × 9 = 414
343 ÷ 7 =	99 ÷ 9 =	(　　) × 8 = 728
54 ÷ 3 =	535 ÷ 5 =	(　　) × 4 = 268
140 ÷ 2 =	960 ÷ 8 =	(　　) × 3 = 135
114 × 4 =	150 ÷ 3 =	(　　) × 5 = 255

B组 变式口算题

1. 判断。（对的打“√”，错的打“×”）

（1）一位数除三位数，商一定是两位数。（　　）

（2）一个三位数除以 9，商一定是两位数。（　　）

2. □ 59 ÷ 5，如果商是三位数，□里最小可以填(　　)；如果商是两位数，□里最大可以填(　　)。

3. 一条 500 米长的路，修路队已经修了 380 米，剩下的要在 5 天内修完，平均每天至少应该修(　　)米。

微信公众号 教辅资料站

关注微信公众号“教辅资料站”获取更多学习资料

练习11 买新书

用时：____分____秒 错误：　个

A组 常规口算题

324 ÷ 9 =	228 ÷ 4 =	(　　) × 4 = 168
552 ÷ 6 =	402 ÷ 6 =	(　　) + 8 = 106
376 ÷ 8 =	138 ÷ 2 =	(　　) × 5 = 355
344 ÷ 4 =	435 ÷ 5 =	(　　) × 4 = 368
119 ÷ 7 =	413 ÷ 7 =	(　　) × 4 = 292
486 + 4 =	316 ÷ 4 =	(　　) × 7 = 217
267 ÷ 3 =	525 ÷ 5 =	(　　) × 6 = 426
384 ÷ 6 =	546 ÷ 6 =	(　　) × 5 = 410
292 ÷ 4 =	847 ÷ 7 =	(　　) × 7 = 637
112 ÷ 7 =	174 ÷ 6 =	(　　) × 2 = 130
132 ÷ 4 =	776 ÷ 8 =	(　　) × 8 = 592
284 ÷ 4 =	273 ÷ 7 =	(　　) × 4 = 340
215 ÷ 5 =	216 ÷ 8 =	(　　) × 6 = 210
272 ÷ 8 =	585 ÷ 9 =	(　　) × 7 = 322
400 ÷ 4 ÷ 5 =	936 ÷ 3 ÷ 2 =	192 ÷ 2 ÷ 8 =
400 ÷ (4 × 2) =	736 ÷ (4 × 2) =	192 ÷ (2 × 6) =

B组 变式口算题

1. 小军和他的三个好朋友一个星期共写了 728 个大字，平均每人每天写(　　)个大字。

2. 小芳买了 3 盒玻璃杯，每盒装 2 个，共花了 150 元。小明买了 2 盒瓷杯，每盒装 2 个，共花了 104 元。小芳买的杯子的单价是(　　)元，小明买的杯子的单价是(　　)元。

3. 学校前的小河两边各栽了 3 行柳树，一共有 144 棵，平均每行有(　　)棵柳树。

微信公众号 教辅资料站

关注微信公众号“教辅资料站”获取更多学习资料

练习 12 讲故事

用时：____分____秒 错误：　个

A组 常规口算题

350 ÷ 7 =	35 × 4 =	420 ÷ 6 =
484 ÷ 4 =	160 ÷ 5 =	88 ÷ 2 =
560 ÷ 7 =	402 ÷ 2 =	69 ÷ 3 =
728 ÷ 7 =	420 ÷ 4 =	408 ÷ 2 =
960 ÷ 8 =	570 ÷ 3 =	268 ÷ 2 =
400 ÷ 5 =	820 ÷ 2 =	45 × 2 =
13 × 7 =	91 ÷ 7 =	315 ÷ 3 =
52 × 4 =	120 ÷ 5 =	412 ÷ 4 =
98 ÷ 7 =	7000 ÷ 7 =	550 ÷ 5 =
39 ÷ 3 =	48 × 2 =	714 ÷ 7 =
903 ÷ 3 =	530 ÷ 5 =	824 ÷ 4 =
60 × 7 =	927 ÷ 3 =	37 × 3 =
81 × 6 =	840 ÷ 6 =	630 ÷ 7 =
360 ÷ 6 × 5 =	105 ÷ 5 × 4 =	214 × 2 ÷ 4 =
120 × 5 ÷ 6 =	312 ÷ 3 × 4 =	156 ÷ 3 × 2 =
250 ÷ 5 × 4 =	112 × 5 ÷ 7 =	178 ÷ 2 × 5 =

B组 变式口算题

1. 水上公园中 8 只游船共有 32 个座位，每只游船有(　　)个座位，20 只游船共有(　　)个座位。
2. 小芳读一本书，每天读 15 页，7 天恰好可以读完。如果要 5 天读完，每天需要读(　　)页。
3. 一列火车 2 小时行驶 180 千米，照这样计算，8 小时行驶(　　)千米。
4. 4 只青蛙 2 天共吃掉 480 只害虫，平均每只青蛙每天吃掉(　　)只害虫。

微信公众号 教辅资料站

关注微信公众号“教辅资料站”获取更多学习资料

练习 13 习题课

用时：____分____秒 错误：　个

A组 常规口算题

45 ÷ 5 =	600 ÷ 4 =	520 ÷ 4 =
560 ÷ 8 =	50 ÷ 2 =	520 ÷ 5 =
309 ÷ 3 =	369 ÷ 3 =	15 × 7 =
249 ÷ 3 =	549 ÷ 9 =	24 × 3 =
140 ÷ 2 =	630 ÷ 6 =	360 ÷ 6 =
15 × 6 =	422 ÷ 2 =	94 ÷ 2 =
43 × 3 =	88 ÷ 4 =	85 ÷ 5 =
355 ÷ 5 =	14 × 7 =	639 ÷ 3 =
624 ÷ 6 =	56 ÷ 2 =	124 ÷ 4 =
960 ÷ 3 =	83 × 2 =	426 ÷ 2 =
328 ÷ 4 =	95 ÷ 5 =	728 ÷ 8 =
515 ÷ 5 =	350 ÷ 7 =	459 ÷ 9 =
360 ÷ 3 =	99 ÷ 9 =	540 ÷ 6 =
310 × 2 ÷ 5 =	230 × 3 ÷ 6 =	336 ÷ 8 × 4 =
115 ÷ 5 × 3 =	120 × 6 ÷ 5 =	243 ÷ 3 × 9 =
216 × 2 ÷ 3 =	960 ÷ 6 × 4 =	515 ÷ 5 × 6 =

B组 变式口算题

1. 一排彩灯按“红橙黄绿青蓝紫”的顺序排列，第 49 个灯是(　　)色，第 123 个灯是(　　)色。

2. 一本故事书有 90 页，小丽 3 天看了 27 页，照这样计算，小丽看完这本书需要用(　　)天。

3. 王师傅给食堂运菜，如果用小推车，每次运 85 千克，8 次可以运完。如果改用三轮车，4 次就能运完。三轮车平均每次运(　　)千克。

微信公众号 教辅资料站

关注微信公众号“教辅资料站”获取更多学习资料

第一单元口算能力测试

用时：____分____秒 错误：　个

A组 常规口算题

100 ÷ 5 =	330 × 2 =	560 ÷ 4 =
0 ÷ 9 =	900 × 4 =	88 ÷ 2 =
12 × 7 =	99 ÷ 9 =	65 ÷ 5 =
34 × 2 =	654 ÷ 6 =	312 ÷ 3 =
600 × 7 =	812 ÷ 4 =	806 ÷ 2 =
4500 ÷ 9 =	810 ÷ 3 =	19 × 4 =
96 ÷ 8 =	250 ÷ 5 =	804 ÷ 4 =
428 ÷ 4 =	183 ÷ 6 =	720 ÷ 8 =
420 ÷ 4 =	90 ÷ 6 =	530 ÷ 5 =
84 ÷ 7 =	210 ÷ 2 =	48 ÷ 4 =
318 ÷ 3 =	618 ÷ 3 =	840 ÷ 8 =
927 ÷ 9 =	400 ÷ 8 =	808 ÷ 4 =
55 ÷ 5 =	505 ÷ 5 =	80 ÷ 5 =
6 × 11 ÷ 3 =	24 × 5 ÷ 6 =	16 × 60 ÷ 4 =
38 × 10 − 190 =	72 ÷ 6 − 11 =	100 ÷ 4 ÷ 5 =
960 ÷ (6 × 2) =	99 ÷ 9 × 10 =	20 × (75 − 43) =

B组 变式口算题

判断。（对的打“√”，错的打“×”）

1. 0 除以任何不为 0 的数都得 0。（　　）
2. 一位数除三位数，商一定是两位数。（　　）
3. 被除数中间有 0，商中间一定有 0。（　　）
4. 被除数的末尾有几个 0，商的末尾就有几个 0。（　　）
5. 0 ÷ 30 和 0 除以 3 的结果相等。（　　）
6. 一个三位数除以 8，商一定是两位数。（　　）
7. 计算除法时，每次除得的余数必须比除数小。（　　）

关注微信公众号“教辅资料站”获取更多学习资料

第二单元 图形的运动

练习1 轴对称（一）

用时：____分____秒　错误：　个

A组 常规口算题

70 ÷ 5 =	15 ÷ 3 =	52 ÷ 4 =
59 ÷ 4 =	92 ÷ 4 =	31 × 5 =
93 ÷ 3 =	72 ÷ 6 =	75 ÷ 5 =
52 ÷ 3 =	56 ÷ 2 =	45 ÷ 3 =
444 ÷ 4 =	132 × 4 =	234 ÷ 2 =
202 ÷ 2 =	555 ÷ 5 =	348 ÷ 3 =
56 ÷ 3 =	306 ÷ 3 =	822 ÷ 2 =
246 ÷ 2 =	354 ÷ 3 =	404 ÷ 2 =
903 ÷ 3 =	78 ÷ 3 =	452 ÷ 4 =
834 ÷ 2 =	468 ÷ 4 =	84 ÷ 7 =
339 ÷ 3 =	218 ÷ 2 =	39 × 4 =
65 ÷ 2 =	812 ÷ 4 =	60 ÷ 5 =
54 × 2 =	252 ÷ 2 =	84 ÷ 6 =
921 ÷ 3 =	608 ÷ 2 =	96 ÷ 8 =
624 ÷ 6 =	808 ÷ 8 =	645 ÷ 3 =
838 ÷ 2 =	909 ÷ 3 =	963 ÷ 9 =

B组 变式口算题

在下面轴对称图形的(　　)里画“√”。

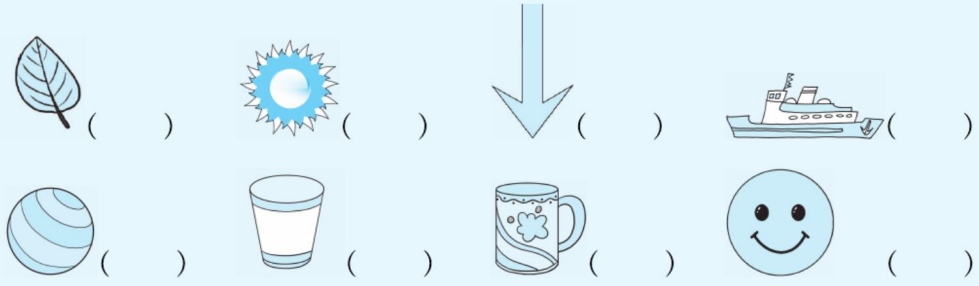

关注微信公众号“教辅资料站”获取更多学习资料

练习2 轴对称（二）

用时：____分____秒 错误：　个

A组 常规口算题

23 ×2 =	71 ×5 =	42 ÷3 =
55 ÷5 =	42 ÷2 =	52 ÷2 =
46 ×3 =	63 ÷3 =	68 ÷4 =
58 ÷4 =	51 ×4 =	75 ÷5 =
224 ÷2 =	57 ×2 =	54 ÷3 =
36 ÷3 =	565 ÷5 =	448 ÷4 =
204 ÷2 =	57 ÷3 =	99 ÷3 =
309 ÷3 =	248 ÷2 =	351 ÷3 =
228 ÷2 =	315 ÷3 =	808 ÷4 =
39 ÷3 =	88 ÷4 =	906 ÷3 =
412 ÷2 =	802 ÷2 =	416 ÷4 =
515 ÷5 =	818 ÷2 =	828 ÷2 =
714 ÷7 =	630 ÷6 =	836 ÷2 =
615 ÷3 =	972 ÷9 =	909 ÷9 =
924 ÷3 =	95 ×3 =	96 ÷8 =
832 ÷8 =	872 ÷8 =	927 ÷9 =

B组 变式口算题

小明在对折好的纸上剪了两个洞，打开后会是哪一个？想一想，做一做。画“√”。

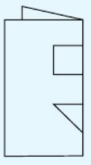　　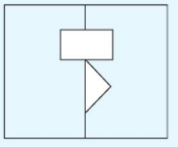　　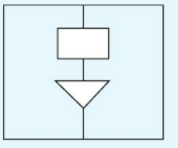　　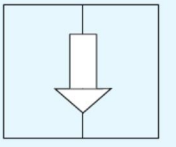

（　　）　　（　　）　　（　　）

关注微信公众号“教辅资料站”获取更多学习资料

练习3 平移和旋转（一）

用时：____分____秒 错误：　个

A组 常规口算题

72 ×5 =	42 ÷3 =	33 ÷3 =
202 ÷2 =	57 ×4 =	72 ÷6 =
43 ×2 =	550 ÷5 =	54 ÷3 =
47 ×3 =	63 ×2 =	238 ÷2 =
52 ÷4 =	77 ÷5 =	452 ÷4 =
339 ÷3 =	53 ×2 =	68 ÷2 =
575 ÷5 =	354 ÷3 =	85 ×4 =
46 ÷2 =	476 ÷4 =	826 ÷2 =
56 ×5 =	58 ×3 =	603 ÷3 =
206 ÷2 =	252 ÷2 =	234 ÷2 =
212 ÷2 =	520 ÷5 =	420 ÷4 =
318 ÷3 =	909 ÷3 =	452 ÷2 =
721 ÷7 =	812 ÷4 =	83 ×7 =
838 ÷2 =	78 ÷6 =	408 ÷2 =
636 ÷6 =	804 ÷2 =	963 ÷9 =
864 ÷8 =	756 ÷7 =	545 ÷5 =
84 ÷7 =	824 ÷4 =	92 ÷8 =
936 ÷9 =	981 ÷9 =	651 ÷3 =

B组 变式口算题

涂一涂。（把通过平移能与图形 A 重合的图形，涂上颜色）



关注微信公众号“教辅资料站”获取更多学习资料

练习4 平移和旋转（二）

用时：____分____秒 错误：　个

A组 常规口算题

90 ÷ 3 =	80 ÷ 4 =	812 ÷ 2 =
44 ÷ 2 =	95 ÷ 5 =	62 ÷ 2 =
57 × 5 =	53 × 4 =	34 × 3 =
43 × 3 =	73 × 6 =	86 × 4 =
59 × 2 =	54 ÷ 2 =	50 ÷ 5 =
254 ÷ 2 =	242 ÷ 2 =	55 × 3 =
456 ÷ 4 =	97 × 3 =	357 ÷ 3 =
440 ÷ 4 =	78 × 5 =	484 ÷ 4 =
585 ÷ 5 =	828 ÷ 2 =	208 ÷ 2 =
642 ÷ 3 =	602 ÷ 2 =	606 ÷ 3 =
606 ÷ 6 =	525 ÷ 5 =	69 × 2 =
903 ÷ 3 =	468 ÷ 4 =	404 ÷ 2 =
915 ÷ 3 =	96 ÷ 8 =	424 ÷ 4 =
96 ÷ 4 =	909 ÷ 9 =	828 ÷ 4 =
842 ÷ 2 =	642 ÷ 6 =	645 ÷ 3 =
864 ÷ 4 =	78 ÷ 3 =	84 ÷ 7 =

B组 变式口算题

小猫可以先向(　　)平移(　　)格，再向(　　)平移(　　)格就可以吃到小鱼；也可以先向(　　)平移(　　)格，再向(　　)平移(　　)格就可以吃到小鱼。

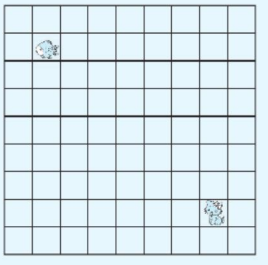

关注微信公众号“教辅资料站”获取更多学习资料

第二单元口算能力测试

用时：____分____秒　错误：　个

A组 常规口算题

53 ×5 =	444 ÷4 =	306 ÷3 =
41 ×2 =	50 ÷2 =	54 ×4 =
44 ×3 =	74 ×5 =	58 ×5 =
232 ÷2 =	49 ÷3 =	80 ×7 =
633 ÷3 =	345 ÷3 =	55 ×2 =
51 ÷3 =	48 ÷2 =	244 ÷2 =
464 ÷4 =	79 ×5 =	402 ÷2 =
832 ÷2 =	55 ×4 =	38 ×3 =
609 ÷3 =	256 ÷2 =	74 ×6 =
81 ×4 =	363 ÷3 =	488 ÷4 =
303 ÷3 =	595 ÷5 =	604 ÷2 =
216 ÷2 =	408 ÷4 =	707 ÷7 =
324 ÷3 =	903 ÷3 =	354 ÷3 =
804 ÷4 =	66 ÷2 =	618 ÷6 =
312 ÷3 =	339 ÷3 =	460 ÷2 =
844 ÷2 =	814 ÷2 =	94 ×3 =

B组 变式口算题

要到棋盘的中心☆处，每个棋子该怎样走呢？

1. ○可以先向(　　)走(　　)格，再向(　　)走(　　)格；
   还可以先向(　　)走(　　)格，再向(　　)走(　　)格。
2. ●可以先向(　　)走(　　)格，再向(　　)走(　　)格；
   还可以先向(　　)走(　　)格，再向(　　)走(　　)格。

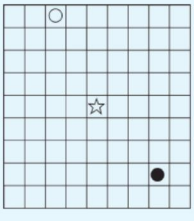

关注微信公众号“教辅资料站”获取更多学习资料

第三单元 乘 法

练习1 找规律

用时：____分____秒　错误：　个

A组 常规口算题

26 ÷ 2 =	2 × 25 =	121 × 3 =
5 × 15 =	6 × 31 =	279 ÷ 3 =
5 × 111 =	3 × 112 =	212 × 2 =
4 × 112 =	2 × 20 =	25 × 100 =
15 × 10 =	6 × 132 =	10 × 20 =
33 × 200 =	5 × 113 =	4 × 31 =
410 × 20 =	25 × 20 =	330 × 30 =
5 × 18 =	15 × 300 =	40 × 50 =
4 × 212 =	126 ÷ 3 =	3 × 212 =
21 × 400 =	7 × 51 =	33 × 30 =
20 × 30 =	313 × 3 =	6 × 50 =
2 × 28 =	5 × 121 =	124 × 3 =
41 × 40 =	45 × 60 =	33 × 50 =
3 × 16 =	410 × 40 =	4 × 34 =
3 × 332 =	9 × 40 =	620 × 60 =
31 × 500 =	364 ÷ 4 =	30 × 40 =

B组 变式口算题

1. 植树节那天，学校组织同学们到郊外去植树，每个小组植 20 棵树。27 个小组一共植(　　)棵树。

2. 10 筐有多少个萝卜？20 筐有多少个萝卜？30 筐呢？40 筐呢？算一算填在表格中。



筐数	10	20	30	40
个数				

关注微信公众号“教辅资料站”获取更多学习资料

练习2 队列表演（一）

用时：____分____秒 错误：　个

A组 常规口算题

36 ÷ 3 =	5 × 16 =	5 × 112 =
2 × 26 =	6 × 131 =	25 × 10 =
122 × 3 =	210 × 10 =	32 × 200 =
41 × 300 =	3 × 15 =	30 × 50 =
10 × 30 =	4 × 210 =	5 × 35 =
3 × 30 =	34 × 20 =	408 ÷ 2 =
6 × 33 =	52 × 400 =	3 × 20 =
320 × 20 =	7 × 52 =	20 × 300 =
4 × 32 =	52 ÷ 4 =	21 × 500 =
5 × 17 =	7 × 50 =	50 × 70 =
5 × 114 =	6 × 32 =	8 × 40 =
43 × 30 =	123 × 3 =	5 × 202 =
16 × 600 =	430 × 30 =	47 × 40 =
40 × 600 =	960 ÷ 8 =	120 × 70 =
505 ÷ 5 =	4 × 33 =	72 × 70 =
31 × 900 =	15 × 700 =	510 × 50 =

B组 变式口算题

1. 11 × 15 =　　21 × 22 =

×	10	1
10		
5		

×	20	1
20		
2		

2. 学校运动会上，同学们进行团体操表演，站了 12 排，每排有 24 人，一共有(　　)人。

3. 一台风扇 41 元，一台电磁炉的价钱是一台风扇的 12 倍，一部手机的价钱是一台风扇的 21 倍，一台电磁炉是(　　)元，一部手机是(　　)元。

关注微信公众号“教辅资料站”获取更多学习资料

练习3 队列表演（二）

用时：____分____秒 错误：　个

A组 常规口算题

72 ÷ 8 =	125 × 2 =	58 ÷ 2 =
14 × 20 =	12 × 50 =	18 × 60 =
12 × 40 =	22 × 20 =	212 × 3 =
14 × 50 =	12 × 60 =	14 × 70 =
12 × 70 =	24 × 3 =	18 × 30 =
121 × 4 =	14 × 40 =	24 × 70 =
32 × 20 =	22 × 70 =	15 × 4 =
14 × 60 =	22 × 30 =	24 × 20 =
18 × 70 =	16 × 50 =	16 × 40 =
15 × 50 =	22 × 60 =	16 × 70 =
25 × 5 =	130 × 5 =	116 × 6 =
24 × 30 =	111 ÷ 3 =	28 × 20 =
26 × 60 =	22 × 50 =	24 × 60 =
86 × 90 =	16 × 6 =	82 × 90 =
26 × 40 =	34 × 20 =	24 × 50 =
210 × 7 =	26 × 30 =	35 × 7 =

B组 变式口算题

列竖式计算。

21 × 41 =　　52 × 11 =　　23 × 21 =　　14 × 12 =

关注微信公众号“教辅资料站”获取更多学习资料

练习4 电影院

用时：____分____秒 错误：　个

A组 常规口算题

486 ÷6 =	96 ÷4 =	25 ×2 =
33 ×3 =	122 ×2 =	16 ×20 =
15 ×20 =	25 ×40 =	15 ×30 =
13 ×40 =	13 ×80 =	13 ×60 =
15 ×40 =	19 ×30 =	53 ×20 =
131 ×3 =	13 ×70 =	23 ×30 =
33 ×40 =	546 ÷6 =	19 ×40 =
15 ×60 =	29 ×40 =	15 ×80 =
18 ×20 =	14 ×30 =	16 ×60 =
25 ×30 =	48 ×2 =	41 ×4 =
15 ×70 =	144 ×4 =	250 ×5 =
35 ×20 =	50 ×50 =	37 ×20 =
23 ×50 =	23 ×60 =	19 ×50 =
25 ×60 =	57 ×20 =	25 ×70 =
38 ×20 =	27 ×30 =	36 ×20 =
130 ×6 =	26 ×50 =	63 ×6 =

B组 变式口算题

1.

34	73	31	53
×16	×28	×42	×49

2. 两位数乘两位数，积可能是(　　)位数，也可能是(　　)位数。

3. 15 ×47 的积是(　　)位数，42 ×39 的积是(　　)位数。

关注微信公众号“教辅资料站”获取更多学习资料

练习5 习题课

用时：____分____秒 错误：　个

A组 常规口算题

25 × 3 =	125 × 3 =	35 × 3 =
66 ÷ 6 =	78 ÷ 3 =	12 × 70 =
11 × 40 =	12 × 60 =	20 × 90 =
10 × 80 =	15 × 4 =	122 × 4 =
15 × 20 =	16 × 70 =	14 × 20 =
40 × 80 =	36 × 2 =	16 × 60 =
17 × 60 =	324 ÷ 4 =	12 × 80 =
21 × 70 =	18 × 30 =	17 × 40 =
52 × 80 =	21 × 60 =	120 × 8 =
41 × 40 =	21 × 40 =	21 × 30 =
313 × 3 =	250 × 5 =	24 × 60 =
23 × 20 =	28 × 60 =	23 × 70 =
35 × 30 =	50 × 60 =	83 × 2 =
23 × 40 =	52 × 5 =	32 × 60 =
24 × 80 =	34 × 20 =	35 × 70 =
41 × 60 =	29 × 30 =	51 × 40 =

B组 变式口算题

1. 用心改一改。（对的画“√”，错的画“×”，并改正）

```
  45
× 36
 270
1215
1485
```

改正：

（　　）

```
  52
× 38
 406
156
1966
```

改正：

（　　）

2. 王老师买了35个足球，他应付(　　)元。



48元/个

关注微信公众号“教辅资料站”获取更多学习资料

练习6 习题课

用时：____分____秒 错误：　个

A组 常规口算题

35 × 2 =	133 × 2 =	31 × 3 =
11 × 30 =	13 × 30 =	92 ÷ 2 =
637 ÷ 7 =	12 × 50 =	23 × 80 =
17 × 30 =	11 × 80 =	22 × 60 =
23 × 50 =	31 × 60 =	51 × 4 =
12 × 30 =	16 × 40 =	19 × 30 =
213 × 3 =	13 × 80 =	17 × 50 =
32 × 20 =	23 × 30 =	13 × 70 =
23 × 60 =	49 × 2 =	22 × 40 =
16 × 50 =	14 × 60 =	54 × 20 =
25 × 40 =	21 × 80 =	144 × 4 =
121 × 6 =	25 × 60 =	28 × 30 =
25 × 30 =	211 × 7 =	29 × 50 =
33 × 50 =	45 × 20 =	16 × 80 =
30 × 60 =	36 × 30 =	15 × 80 =
22 × 70 =	276 ÷ 3 =	32 × 40 =

B组 变式口算题

1. 积是四位数的算式是(　　)。
   A. 23 × 32　　B. 400 × 30
   C. 57 × 24
2. 把 43 连续加 19 次，结果是(　　)。
   A. 832　　B. 817
   C. 368
3. 38 × 29，若 38 减少 2，积就减少(　　)。
   A. 76　　B. 58
   C. 2
4. 植树节那天，光明小学进行了一次“我为家乡添绿色”活动，这个学校 24 个班共植树(　　)棵。



关注微信公众号“教辅资料站”获取更多学习资料

第三单元口算能力测试

用时：____分____秒 错误：　个

A组 常规口算题

24 × 2 =	121 × 2 =	21 × 4 =
12 × 40 =	11 × 20 =	13 × 3 =
80 ÷ 5 =	57 ÷ 3 =	311 × 3 =
17 × 20 =	19 × 40 =	13 × 7 =
13 × 50 =	12 × 80 =	25 × 3 =
14 × 40 =	35 × 3 =	14 × 80 =
216 × 2 =	249 ÷ 3 =	121 × 5 =
484 ÷ 2 =	21 × 30 =	22 × 4 =
16 × 30 =	17 × 5 =	13 × 90 =
33 × 4 =	16 × 60 =	55 × 90 =
15 × 70 =	22 × 80 =	126 ÷ 2 =
33 × 30 =	410 × 3 =	21 × 60 =
23 × 40 =	60 × 50 =	25 × 70 =
19 × 50 =	51 × 5 =	43 × 3 =
23 × 6 =	45 × 30 =	32 × 60 =
211 × 6 =	29 × 40 =	33 × 70 =

B组 变式口算题

1. 列竖式计算。

25 × 16 =　　33 × 24 =　　32 × 37 =　　52 × 56 =

2. 25 名同学每人买一套，一共要花(　　)元钱。



上衣46元



裤子38元

关注微信公众号“教辅资料站”获取更多学习资料

难易等级：

练习1　除　法

用时：____分____秒　错误：　个

A组　常规口算题

24 ÷ 2 =	222 ÷ 2 =	125 ÷ 5 × 3 =
202 ÷ 2 =	306 ÷ 3 =	120 ÷ 2 ÷ 6 =
96 ÷ 4 =	312 ÷ 3 =	13 × 3 + 60 =
46 ÷ 2 =	52 ÷ 4 =	300 − 700 ÷ 5 =
484 ÷ 4 =	48 ÷ 4 =	80 + 125 ÷ 5 =
624 ÷ 6 =	404 ÷ 2 =	16 × 9 ÷ 3 =
840 ÷ 2 =	630 ÷ 3 =	720 ÷ (4 × 2) =
216 ÷ 2 =	328 ÷ 4 =	500 − 300 ÷ 6 =
72 ÷ 3 =	36 ÷ 2 =	25 × 8 ÷ 4 =
327 ÷ 3 =	555 ÷ 5 =	90 + 160 ÷ 4 =
612 ÷ 6 =	480 ÷ 4 =	350 ÷ 7 × 5 =
505 ÷ 5 =	48 ÷ 2 =	366 ÷ 2 ÷ 3 =
428 ÷ 4 =	436 ÷ 4 =	32 × 8 ÷ 4 =
60 ÷ 5 =	550 ÷ 5 =	480 ÷ 6 ÷ 8 =
96 ÷ 3 =	39 ÷ 3 =	560 ÷ 8 × 7 =
525 ÷ 5 =	75 ÷ 5 =	400 − 900 ÷ 5 =

B组　变式口算题

1. 节约用水，人人有责。一个没有关紧的水龙头，一个星期能流失约 672 千克水。算一算，这个水龙头平均每天约流失(　　)千克水。

2. 我家一共有 300 本书，放在一个 6 层的书架上，平均每层放了(　　)本。

3. 红光小学三年级 192 名学生参观科技馆，平均分成 3 队，每队平均分成 2 组，每组有(　　)名学生。

关注微信公众号“教辅资料站”获取更多学习资料

练习2 图形的运动

用时：____分____秒 错误：　个

A组 常规口算题

26 ÷ 2 =	52 ÷ 4 =	333 ÷ 3 =
204 ÷ 4 =	240 ÷ 2 =	412 ÷ 4 =
16 × 10 =	23 × 20 =	75 ÷ 3 =
21 × 40 =	37 ÷ 3 =	330 ÷ 3 =
15 × 200 =	12 × 50 =	25 × 5 =
17 × 30 =	484 ÷ 4 =	606 ÷ 3 =
230 × 20 =	25 × 40 =	46 × 20 =
52 ÷ 2 =	424 ÷ 4 =	59 ÷ 5 =
840 ÷ 4 =	360 × 30 =	318 ÷ 3 =
32 × 40 =	44 ÷ 2 =	25 × 30 =
515 ÷ 5 =	808 ÷ 4 =	650 ÷ 5 =
963 ÷ 3 =	690 ÷ 3 =	420 × 40 =
33 × 30 =	55 × 20 =	864 ÷ 4 =
565 ÷ 5 =	23 × 300 =	636 ÷ 6 =
38 × 6 =	78 ÷ 6 =	86 ÷ 2 =
14 × 400 =	35 × 40 =	49 × 30 =

B组 变式口算题

1. 把可以通过平移得到黑色环形箭头的环形箭头圈出来。

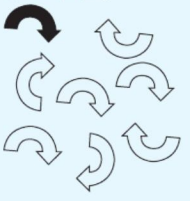

2. 画一画。

(1) 先向下平移 4 格，再向左平移 4 格后，在哪个位置？请画“◯”。

(2) 先向左平移 6 格，再向上平移 3 格后，在哪个位置？请画“△”。

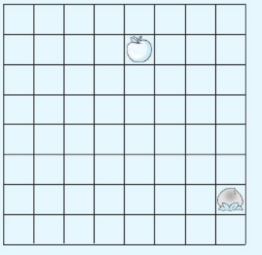

关注微信公众号“教辅资料站”获取更多学习资料

练习3　乘　法

用时：____分____秒　错误：　个

A组　常规口算题

36 ÷ 3 =	54 ÷ 2 =	428 ÷ 2 =
440 ÷ 2 =	404 ÷ 2 =	212 ÷ 2 =
13 × 20 =	17 × 50 =	16 × 40 =
23 × 30 =	16 × 30 =	23 × 60 =
19 × 50 =	324 ÷ 3 =	440 ÷ 4 =
210 × 40 =	19 × 20 =	85 ÷ 5 =
48 ÷ 3 =	824 ÷ 2 =	660 ÷ 6 =
216 ÷ 2 =	660 ÷ 3 =	436 ÷ 4 =
19 × 40 =	18 × 30 =	25 × 20 =
29 × 20 =	84 ÷ 2 =	84 ÷ 6 =
336 ÷ 3 =	808 ÷ 2 =	25 × 6 =
880 ÷ 4 =	24 × 40 =	448 ÷ 4 =
33 × 50 =	37 × 20 =	24 × 30 =
125 × 4 =	56 ÷ 4 =	33 × 40 =
69 ÷ 6 =	535 ÷ 5 =	69 ÷ 3 =
320 × 50 =	15 × 400 =	880 ÷ 2 =

B组　变式口算题

1. 每箱苹果重 15 千克，每箱苹果 85 元。32 箱苹果共重(　　)千克，32 箱苹果共(　　)元。

2. 1 副羽毛球拍 18 元，买 32 副要用(　　)元。

3. 修一段长 800 米的公路，已经修了 5 天，还剩 320 米没有修，平均每天修(　　)米。

4. 服装店卖一批服装，6 天共卖出 96 件，总共卖了 12 天才全部卖完(每天卖的件数一样)，这批服装共有(　　)件。

关注微信公众号“教辅资料站”获取更多学习资料

第四单元 千克、克、吨

练习1 有多重

用时：____分____秒　错误：　个

A组 常规口算题

24 ÷ 2 =	150 ÷ 5 =	58 × 5 =
120 ÷ 3 =	33 ÷ 3 =	96 ÷ 6 =
12 × 20 =	18 × 20 =	92 × 40 =
11 × 100 =	25 × 4 =	606 ÷ 6 =
220 × 20 =	125 × 8 =	47 × 40 =
12 × 3 =	68 ÷ 4 =	336 × 5 =
21 × 4 =	124 ÷ 4 =	29 × 30 =
28 × 30 =	16 × 200 =	648 ÷ 6 =
122 ÷ 2 =	25 × 80 =	37 × 6 =
62 ÷ 2 =	75 × 20 =	63 × 6 =
22 × 30 =	75 ÷ 5 =	39 × 20 =
46 ÷ 2 =	640 ÷ 8 =	56 × 30 =
135 ÷ 5 =	19 × 30 =	43 × 30 =
120 × 50 =	888 ÷ 8 =	65 × 70 =
14 × 50 =	212 ÷ 4 =	33 × 30 =
111 ÷ 3 =	27 × 30 =	32 × 80 =
99 ÷ 3 =	516 ÷ 4 =	31 × 40 =
14 × 400 =	23 × 20 =	41 × 4 =

B组 变式口算题

1. 在(　　)里填上合适的单位。






大约重(　　)　大约重3(　　)　大约重3(　　)　大约重40(　　)

2. 1千克 = (　　)克　　2000克 = (　　)千克　　3千克 = (　　)克

5000克 = (　　)千克　　8千克 = (　　)克　　9000克 = (　　)千克

关注微信公众号“教辅资料站”获取更多学习资料

练习2 1吨有多重

用时：____分____秒 错误：　个

A组 常规口算题

111×2=	72÷3=	1吨=(　　)千克
240÷6=	222÷2=	2吨=(　　)千克
10×19=	30×12=	3000千克=(　　)吨
20×14=	40×15=	5吨=(　　)千克
100÷5=	120÷6=	6000千克=(　　)吨
41×5=	12×40=	6千克=(　　)克
42÷2=	303÷3=	7吨=(　　)千克
50×11=	60×12=	7000克=(　　)千克
110×20=	96÷3=	(　　)吨=8000千克
369÷3=	89×2=	3000克=(　　)千克
20×24=	31×30=	(　　)克=4千克
50×12=	70×14=	4吨=(　　)千克
82÷2=	399÷3=	9000千克=(　　)吨
244÷4=	124×3=	(　　)克=9千克
88÷4=	24×50=	(　　)克=8千克
777÷7=	55÷5=	5千克=(　　)克

B组 变式口算题

1. 在(　　)里填上合适的单位。

的体重是40(　　)。　　一个的质量是200(　　)。

载重4(　　)。　　的体重是5(　　)。

2. 水果店里有6筐苹果，每筐苹果重24千克，6筐苹果一共重(　　)千克。

3. 爸爸买回3千克油，吃掉1000克后，又买回2000克，现在有油(　　)千克。

关注微信公众号“教辅资料站”获取更多学习资料

第四单元口算能力测试

用时：____分____秒　错误：　个

A组 常规口算题

22 ÷ 2 =	10 × 17 =	1 千克 = (　　) 克
123 ÷ 3 =	28 ÷ 2 =	2000 克 = (　　) 千克
20 × 11 =	102 ÷ 2 =	4000 克 = (　　) 千克
12 × 100 =	14 × 100 =	5000 千克 = (　　) 吨
24 ÷ 4 =	38 ÷ 2 =	2000 千克 = (　　) 吨
104 ÷ 2 =	20 × 12 =	3000 克 = (　　) 千克
10 × 18 =	23 × 100 =	6 吨 = (　　) 千克
13 × 200 =	111 ÷ 3 =	8000 克 = (　　) 千克
48 ÷ 2 =	25 × 40 =	9000 克 = (　　) 千克
120 ÷ 4 =	150 ÷ 3 =	3 吨 = (　　) 千克
19 × 20 =	400 × 11 =	4000 千克 = (　　) 吨
11 × 300 =	77 ÷ 7 =	8 吨 = (　　) 千克
36 ÷ 6 =	15 × 50 =	5000 克 = (　　) 千克
105 ÷ 5 =	115 ÷ 5 =	9 吨 = (　　) 千克
21 × 30 =	300 × 14 =	7000 千克 = (　　) 吨
13 × 200 =	78 ÷ 2 =	7 千克 = (　　) 克
14 × 30 =	23 × 40 =	6000 克 = (　　) 千克

B组 变式口算题

1. 在◯里填上“ > ”“ < ”或“ = ”。

5 吨◯4958 千克　　50 吨◯5000 千克

990 千克◯1 吨　　9500 千克◯9 吨 500 千克

2. 生产 1 吨石油需要用水 15 吨，生产 6 吨石油需要用水(　　) 吨。

3. 每个箱子重 480 千克，一次(　　) 运走 6 个箱子。(填“能”或“不能”)



关注微信公众号“教辅资料站”获取更多学习资料

第五单元 面 积

练习1 什么是面积

用时：____分____秒　错误：　个

A组 常规口算题

30 ÷ 2 =	200 × 11 =	24 ÷ 2 =
104 ÷ 2 =	14 × 20 =	21 × 13 =
11 × 30 =	39 ÷ 3 =	100 × 19 =
12 × 40 =	120 ÷ 2 =	100 ÷ 5 =
33 ÷ 3 =	42 ÷ 2 =	21 ÷ 3 =
125 ÷ 5 =	14 × 200 =	50 × 11 =
13 × 20 =	15 × 30 =	300 × 12 =
11 × 100 =	140 ÷ 2 =	51 ÷ 3 =
44 ÷ 4 =	48 ÷ 4 =	104 ÷ 4 =
120 ÷ 6 =	200 × 15 =	25 × 30 =
14 × 3 =	16 × 20 =	16 × 50 =
12 × 200 =	166 ÷ 2 =	160 ÷ 2 =
45 ÷ 5 =	52 ÷ 4 =	58 ÷ 2 =
150 ÷ 5 =	300 × 13 =	69 ÷ 3 =
15 × 40 =	17 × 30 =	17 × 40 =
16 × 300 =	216 ÷ 2 =	18 × 300 =

B组 变式口算题

1. 作业本(　　)的大小就是作业本封面的面积，国旗的面积是指(　　)。

2. 数一数，下面每个图形的面积分别等于几个方格的面积。

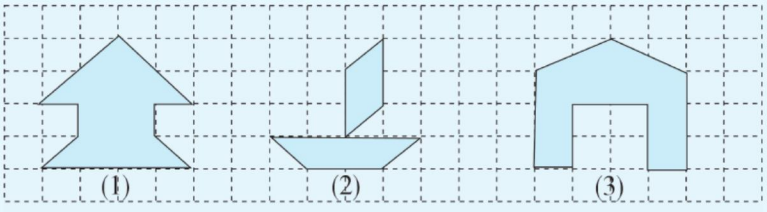

(　　)　(　　)　(　　)

关注微信公众号“教辅资料站”获取更多学习资料

练习2 面积单位

用时：____分____秒 错误：　个

A组 常规口算题

12 ×10 =	100 ÷4 =
110 ÷5 =	20 ×25 =
25 ÷5 =	32 ÷4 =
100 ×16 =	48 ÷6 =
17 ×20 =	111 ÷3 =
120 ÷3 =	100 ×18 =
36 ÷3 =	41 ×40 =
300 ×11 =	250 ÷5 =
19 ×8 =	88 ÷8 =
57 ÷3 =	31 ×40 =
16 ×200 =	62 ÷2 =
50 ÷2 =	300 ×14 =
50 ×13 =	14 ×50 =
600 ×12 =	78 ÷2 =
188 ÷2 =	196 ÷2 =
29 ×20 =	16 ×60 =

◆ 在(　　)内填上合适的单位。

计算机屏幕的面积大约是8(　　)。

教室地面面积是58(　　)。

一枚邮票面积是4(　　)。

一块手帕面积是4(　　)。

一块黑板面积是4(　　)。

学校操场跑道长400(　　)。

小明身高128(　　)。

小丽腰围6(　　)。

计算机键盘每个数字键面积约1(　　)。

一张100元人民币的面积约为120(　　)。

一根跳绳长2(　　)。

一个果园长600(　　),宽400(　　)。

数学书厚8(　　)。

课桌面的面积是32(　　)。

足球场占地面积是7200(　　)。

教室窗户长25(　　)。

B组 变式口算题

用4个面积为1平方厘米的正方形,拼成如下图形,求每个图形的面积和周长。

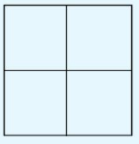

面积:(　　)平方厘米　周长:(　　)厘米

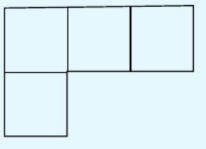

面积:(　　)平方厘米　周长:(　　)厘米

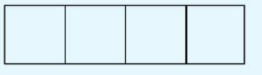

面积:(　　)平方厘米　周长:(　　)厘米

关注微信公众号“教辅资料站”获取更多学习资料

练习3 长方形的面积（一）

用时：____分____秒 错误：　个

A组 常规口算题

◆ 长方形周长和面积公式的应用。

长 =3 厘米，宽 =2 厘米

面积 =(　　)平方厘米

长 =4 厘米，宽 =3 厘米

周长 =(　　)厘米

面积 =120 平方厘米，宽 =2 厘米

长 =(　　)厘米

面积 =20 平方分米，长 =5 分米

宽 =(　　)分米

长 =5 米，宽 =2 米

面积 =(　　)平方米

长 =5 分米，宽 =4 分米

周长 =(　　)分米

长 =6 分米，宽 =3 分米

面积 =(　　)平方分米

长 =7 厘米，宽 =4 厘米

面积 =(　　)平方厘米

◆ 求正方形的面积或周长。

边长 =1 厘米，面积 =(　　)平方厘米

边长 =2 分米，面积 =(　　)平方分米

边长 =4 米，面积 =(　　)平方米

边长 =6 分米，面积 =(　　)平方分米

边长 =7 厘米，面积 =(　　)平方厘米

边长 =9 米，面积 =(　　)平方米

边长 =10 分米，面积 =(　　)平方分米

边长 =11 厘米，面积 =(　　)平方厘米

边长 =8 厘米，面积 =(　　)平方厘米

边长 =15 米，周长 =(　　)米

边长 =100 厘米，周长 =(　　)厘米

边长 =20 厘米，周长 =(　　)厘米

边长 =30 米，周长 =(　　)米

边长 =40 分米，周长 =(　　)分米

边长 =50 厘米，周长 =(　　)厘米

边长 =60 厘米，周长 =(　　)米

B组 变式口算题

把下表填完整。

图形	长/厘米	宽/厘米	周长/厘米	面积/平方厘米
长方形	7	5		
	8	4		
	10	2		
正方形	边长 6 厘米			

关注微信公众号“教辅资料站”获取更多学习资料

练习4 长方形的面积（二）

用时：____分____秒 错误：　个

A组 常规口算题

◆ 求长方形的周长或面积。

长 =15 米，宽 =4 米

面积 =（　　）平方米

长 =12 厘米，宽 =10 厘米

面积 =（　　）平方厘米

长 =40 米，宽 =35 米

周长 =（　　）米

长 =2 米，宽 =12 分米

面积 =（　　）平方分米

长 =9 厘米，宽 =4 厘米

周长 =（　　）厘米

长 =24 分米，宽 =1 米

面积 =（　　）平方分米

长 =6 米，宽 =3 分米

周长 =（　　）分米

长 =12 厘米，宽 =8 厘米

面积 =（　　）平方厘米

◆ 求正方形的周长或面积。

边长 =7 米，面积 =（　　）平方米

边长 =10 厘米，面积 =（　　）平方厘米

边长 =24 分米，周长 =（　　）分米

边长 =11 米，周长 =（　　）米

边长 =9 米，周长 =（　　）米

边长 =8 分米，面积 =（　　）平方分米

边长 =20 厘米，面积 =（　　）平方厘米

边长 =21 分米，周长 =（　　）分米

边长 =12 厘米，面积 =（　　）平方厘米

边长 =30 分米，周长 =（　　）分米

边长 =17 米，周长 =（　　）米

边长 =40 厘米，面积 =（　　）平方厘米

边长 =50 厘米，周长 =（　　）厘米

边长 =5 厘米，面积 =（　　）平方厘米

边长 =6 分米，周长 =（　　）分米

边长 =13 分米，面积 =（　　）平方分米

B组 变式口算题

1. 一块正方形草坪的边长是 4 米，它的面积是（　　）平方米，周长是（　　）米。

2. 花园里有一块正方形草坪，周长是 36 米，它的面积是（　　）平方米。

3. 铺 1 平方米的草坪需要 25 元，铺一块长 45 米、宽 20 米的长方形草坪需要（　　）元。

4. 教室的窗户长 26 分米，比宽长 6 分米，它的面积是（　　）平方分米。在窗户的四周贴上彩带，至少需要（　　）分米长的彩带。

关注微信公众号“教辅资料站”获取更多学习资料

练习5 面积单位的换算

用时：____分____秒 错误： 个

A组 常规口算题

2 平方分米 = (　　) 平方厘米　　1 平方米 = (　　) 平方分米

100 平方厘米 = (　　) 平方分米　　200 平方厘米 = (　　) 平方分米

8 平方米 = (　　) 平方分米　　3 平方分米 = (　　) 平方厘米

4 平方分米 = (　　) 平方厘米　　10 平方分米 = (　　) 平方厘米

400 平方分米 = (　　) 平方米　　3000 平方分米 = (　　) 平方米

5 平方米 = (　　) 平方分米　　60 平方米 = (　　) 平方分米

600 平方分米 = (　　) 平方米　　11 平方分米 = (　　) 平方厘米

700 平方厘米 = (　　) 平方分米　　1200 平方分米 = (　　) 平方米

90 平方米 = (　　) 平方分米　　80 平方分米 = (　　) 平方厘米

1400 平方厘米 = (　　) 平方分米　　900 平方厘米 = (　　) 平方分米

15 平方米 = (　　) 平方分米　　14 平方米 = (　　) 平方分米

800 平方分米 = (　　) 平方米　　1300 平方分米 = (　　) 平方米

1000 平方厘米 = (　　) 平方分米　　18 平方分米 = (　　) 平方厘米

17 平方分米 = (　　) 平方厘米　　19 平方米 = (　　) 平方分米

2000 平方分米 = (　　) 平方米　　4000 平方分米 = (　　) 平方米

3000 平方厘米 = (　　) 平方分米　　5000 平方厘米 = (　　) 平方分米

B组 变式口算题

在(　　) 里填上合适的面积单位。

1. 小明家客厅的面积是 45(　　)。

2. 一张普通照片的面积大约是 120(　　)。

3. 一扇门的面积大约是 2(　　)。

4. 一个花坛的面积大约是 10(　　)。

5. 数学课本封面的面积大约是 3(　　)。

6. 一块橡皮的面积大约是 6(　　)。

关注微信公众号“教辅资料站”获取更多学习资料

练习6 习题课

用时：____分____秒 错误：　个

A组 常规口算题

11×30=	20×13=	◆ 求长方形或正方形的面积。
12×100=	100×15=	长=7米，宽=5米
22÷2=	24÷2=	面积=(　　)平方米
100÷5=	106÷2=	长=10厘米，宽=8厘米
21×20=	23×20=	面积=(　　)平方厘米
24×100=	26×200=	边长=7分米
28÷2=	34÷2=	面积=(　　)平方分米
102÷2=	108÷4=	长=12分米，宽=7分米
31×10=	33×20=	面积=(　　)平方分米
200×25=	300×11=	长=16米，宽=6米
39÷3=	42÷2=	面积=(　　)平方米
110÷5=	115÷5=	边长=8分米
30×14=	40×12=	面积=(　　)平方分米
300×13=	400×13=	长=15厘米，宽=10厘米
46÷2=	55÷5=	面积=(　　)平方厘米
126÷2=	146÷2=	长=20分米，宽=10分米
50×17=	18×50=	面积=(　　)平方分米
500×13=	600×16=	

B组 变式口算题

图形	长	宽	周长	面积
长方形	10分米	5分米		
	8厘米		20厘米	
		5米		65平方米
正方形	边长	16米		
			40厘米	
				64平方分米

关注微信公众号“教辅资料站”获取更多学习资料

练习7 习题课

用时：____分____秒 错误： 个

A组 常规口算题

23 ×2 =	10 ×19 =	78 ÷2 =
9 ×20 =	31 ×3 =	5 ×50 =
21 ×30 =	24 ×20 =	29 ×10 =
42 ÷2 =	56 ÷4 =	43 ×2 =
108 ÷3 =	102 ÷3 =	110 ÷5 =
20 ×14 =	8 ×60 =	56 ÷2 =
58 ÷2 =	70 ×11 =	47 ×20 =
114 ÷2 =	66 ÷2 =	59 ×3 =
41 ×3 =	126 ÷3 =	148 ÷4 =
8 ×50 =	43 ×4 =	64 ÷4 =
16 ×40 =	95 ÷5 =	25 ×80 =
62 ÷2 =	178 ÷2 =	120 ÷5 =
125 ÷5 =	25 ×40 =	63 ×2 =
17 ×30 =	70 ×9 =	9 ×80 =
72 ÷6 =	52 ×3 =	26 ×50 =
140 ÷5 =	96 ÷2 =	140 ÷4 =

B组 变式口算题

1. 有2个完全一样的长方形，长40厘米、宽20厘米。

   (1)拼成一个长方形，面积是(　　)平方分米，周长是(　　)厘米。

   (2)拼成一个正方形，面积是(　　)平方分米，周长是(　　)分米。

2. 一个长方形的游泳池，长60米、宽30米，要在池底铺边长为3分米的方砖，需要(　　)块。

3. 在一块长55厘米、宽40厘米的长方形木板上，锯下一块最大的正方形木板，这块正方形木板的面积是(　　)平方厘米，合(　　)平方分米。

关注微信公众号“教辅资料站”获取更多学习资料

第五单元口算能力测试

用时：____分____秒 错误：　个

A组 常规口算题

◆ 长方形和正方形周长和面积公式的应用。

长 =7 米，宽 =5 米，面积 =(　　)平方米

长 =10 厘米，宽 =8 厘米，周长 =(　　)厘米

边长 =5 米，面积 =(　　)平方米

面积 =46 平方米，宽 =2 米，长 =(　　)米

面积 =90 平方分米，长 =10 分米，宽 =(　　)分米

边长 =9 厘米，面积 =(　　)平方厘米

长 =11 米，宽 =9 米，周长 =(　　)米

长 =12 厘米，宽 =10 厘米，面积 =(　　)平方厘米

长 =14 厘米，宽 =10 厘米，面积 =(　　)平方厘米

边长 =8 米，面积 =(　　)平方米

边长 =9 分米，周长 =(　　)分米

长 =23 分米，宽 =10 分米，面积 =(　　)平方分米

长 =25 厘米，宽 =20 厘米，周长 =(　　)厘米

边长 =20 分米，面积 =(　　)平方分米

面积 =128 平方米，宽 =8 米，长 =(　　)米

1 平方米 =(　　)平方分米

100 平方厘米 =(　　)平方分米

3 平方分米 =(　　)平方厘米

4 平方米 =(　　)平方分米

5 平方分米 =(　　)平方厘米

400 平方厘米 =(　　)平方分米

200 平方分米 =(　　)平方米

10 平方分米 =(　　)平方厘米

6 平方米 =(　　)平方分米

500 平方分米 =(　　)平方米

600 平方厘米 =(　　)平方分米

8 平方分米 =(　　)平方厘米

9 平方米 =(　　)平方分米

700 平方分米 =(　　)平方米

900 平方厘米 =(　　)平方分米

20 平方米 =(　　)平方分米

B组 变式口算题

判断。（对的打“√”，错的打“×”）

1. 边长是 4 分米的正方形，它的面积是 16 平方米。（　　）
2. 长方形的长是 8 厘米、宽是 5 厘米，如果长减少了 3 厘米，就成了一个正方形。（　　）
3. 把一个正方形平均分成两个小长方形，每个小长方形的周长是正方形的一半。（　　）
4. 边长是 4 厘米的正方形，周长与面积相等。（　　）
5. 周长大的图形，面积就一定大。（　　）
6. 长方形和正方形的周长相等，它们的面积也一定相等。（　　）

关注微信公众号“教辅资料站”获取更多学习资料

难易等级：

练习1　小小设计师

用时：____分____秒　错误：　个

A组　常规口算题

33 ÷ 3 =	28 ÷ 2 =	19 × 10 =
100 ÷ 5 =	15 × 20 =	36 ÷ 2 =
14 × 20 =	110 ÷ 5 =	108 ÷ 2 =
11 × 100 =	38 ÷ 2 =	200 × 22 =
45 ÷ 5 =	23 × 100 =	54 ÷ 2 =
102 ÷ 3 =	19 × 30 =	20 × 17 =
15 × 30 =	105 ÷ 5 =	300 × 15 =
12 × 200 =	46 ÷ 2 =	124 ÷ 4 =
48 ÷ 4 =	200 × 13 =	63 ÷ 3 =
106 ÷ 2 =	55 ÷ 5 =	50 × 14 =
16 × 30 =	17 × 30 =	400 × 12 =
21 × 100 =	62 ÷ 2 =	154 ÷ 2 =
58 ÷ 2 =	300 × 24 =	75 ÷ 5 =
125 ÷ 5 =	168 ÷ 4 =	172 ÷ 4 =
18 × 30 =	18 × 40 =	25 × 800 =
32 × 200 =	25 × 200 =	16 × 60 =

B组　变式口算题

你喜欢设计精美的图案吗？请你在下面的点子图上设计两个自己喜欢的轴对称图形。

关注微信公众号“教辅资料站”获取更多学习资料

练习2 我们一起去游园

用时：____分____秒 错误：　个

A组 常规口算题

122 ÷2 =	14 ×30 =	104 ÷2 =
50 ÷5 =	200 ÷5 =	100 ×24 =
12 ×30 =	18 ×200 =	54 ÷6 =
23 ×100 =	36 ÷6 =	40 ×13 =
144 ÷4 =	23 ×20 =	196 ÷2 =
65 ÷5 =	205 ÷5 =	200 ×21 =
14 ×50 =	42 ×200 =	74 ÷2 =
43 ×100 =	57 ÷3 =	50 ×21 =
175 ÷5 =	24 ×50 =	201 ÷3 =
72 ÷6 =	177 ÷3 =	300 ×32 =
24 ×40 =	33 ×300 =	88 ÷2 =
52 ×200 =	84 ÷4 =	60 ×16 =
188 ÷2 =	60 ×15 =	215 ÷5 =
98 ÷2 =	25 ×80 =	400 ×15 =
50 ×15 =	225 ÷5 =	92 ÷4 =
41 ×300 =	300 ÷6 =	70 ×12 =

B组 变式口算题

王老师带领50人去公园划船，怎样租船最合算？

售票处

大船每只24元，限乘6人

小船每只20元，限乘4人

方案	大船条数	小船条数	可坐人数	租金/元
方案一				
方案二				
方案三				
方案四				

关注微信公众号“教辅资料站”获取更多学习资料

练习3　有趣的推理

用时：____分____秒　错误：　个

A组　常规口算题

130 ÷5 =	24 ×20 =	100 ×21 =
21 ×40 =	200 ×13 =	28 ×20 =
100 ×18 =	46 ÷2 =	66 ÷2 =
78 ÷2 =	140 ÷5 =	114 ÷2 =
166 ÷2 =	25 ×40 =	300 ×14 =
23 ×30 =	100 ×29 =	27 ×30 =
200 ×23 =	87 ÷3 =	126 ÷2 =
66 ÷3 =	144 ÷3 =	64 ÷4 =
24 ×5 =	200 ×24 =	400 ×21 =
145 ÷5 =	26 ×30 =	32 ×40 =
71 ×20 =	93 ÷3 =	72 ÷8 =
43 ×200 =	216 ÷3 =	216 ÷4 =
76 ÷2 =	300 ×32 =	85 ÷5 =
222 ÷2 =	27 ×40 =	60 ×13 =
82 ×20 =	96 ÷2 =	55 ×300 =
53 ×200 =	303 ÷3 =	92 ÷2 =

B组　变式口算题

张老师把红、白、蓝各一个气球分给三位小朋友。根据下面三句话，请你猜一猜，他们分到的各是什么颜色的气球。

小春说："我分到的不是蓝气球。"

小宇说："我分到的不是白气球。"

小华说："我看见张老师把蓝气球和红气球分给另外两位小朋友。"

小春分到(　　)气球，小宇分到(　　)气球，小华分到(　　)气球。

关注微信公众号"教辅资料站"获取更多学习资料

巩固应用（一）

用时：____分____秒　错误：　个

A组 常规口算题

11 ×40 =	44 ÷2 =	32 ÷2 =
45 ÷3 =	17 ×100 =	25 ×30 =
16 ×100 =	102 ÷2 =	23 ×100 =
123 ÷3 =	23 ×3 =	112 ÷4 =
21 ×50 =	57 ÷3 =	54 ÷2 =
52 ÷2 =	22 ×200 =	35 ×20 =
24 ×200 =	135 ÷3 =	29 ×200 =
140 ÷7 =	36 ×40 =	156 ÷4 =
32 ×40 =	68 ÷4 =	69 ÷3 =
63 ÷3 =	34 ×200 =	44 ×30 =
31 ×300 =	174 ÷3 =	36 ×200 =
204 ÷2 =	38 ×20 =	188 ÷2 =
41 ×30 =	70 ÷5 =	74 ÷2 =
78 ÷3 =	300 ×33 =	52 ×20 =
35 ×400 =	216 ÷2 =	41 ×300 =
310 ÷5 =	46 ×20 =	270 ÷5 =

B组 变式口算题

1. 列竖式计算。

120 ×5 ×6　　561 ÷3 ×5　　552 ÷6 ÷4

2. 改错。

746 ÷6 =107……4

```
  1 0 7
6)7 4 6
  6
  ---
    4 6
    4 2
  -----
      4
```

改正：

68 ×34 =476

```
   6 8
 ×3 4
 -----
 2 7 2
 2 0 4
 -----
 4 7 6
```

改正：

关注微信公众号“教辅资料站”获取更多学习资料

巩固应用（二）

用时：____分____秒　错误：　个

A组 常规口算题

64 ÷ 4 =	39 ÷ 3 =	5 × 40 =
8 × 30 =	7 × 50 =	24 × 10 =
138 ÷ 2 =	27 × 30 =	126 ÷ 2 =
32 × 20 =	20 × 30 =	65 ÷ 5 =
40 × 30 =	144 ÷ 4 =	40 × 50 =
55 ÷ 5 =	48 ÷ 4 =	6 × 60 =
462 − 132 =	34 × 20 =	72 ÷ 6 =
210 ÷ 5 =	155 ÷ 5 =	50 × 50 =
43 × 40 =	60 × 9 =	166 ÷ 2 =
78 ÷ 6 =	46 × 30 =	53 × 40 =
40 × 9 =	76 ÷ 4 =	234 + 156 =
318 ÷ 3 =	50 × 70 =	250 ÷ 5 =
52 × 2 =	576 − 232 =	84 ÷ 7 =
98 ÷ 7 =	268 ÷ 4 =	64 × 50 =
62 × 40 =	57 × 20 =	216 ÷ 6 =
405 ÷ 5 =	8 × 90 =	678 − 232 =

B组 变式口算题

1. 寒假里，小明去长城照了很多照片，这些照片刚好装满了两个影集。已知每个影集有 36 页，每页可以放 4 张照片，小明一共照了(　　)张照片。

2. 明明看一本 322 页的书，5 天看了 180 页，照这样的速度，9 天(　　)看完。(填“能”或“不能”)

3. 商店运来 1500 千克梨，卖了 32 筐，平均每筐 40 千克，还剩(　　)千克梨。

4. 学校买来 720 本《中华成语故事》，平均分给 6 个年级，每个年级有 4 个班，平均每个班分到(　　)本。

关注微信公众号“教辅资料站”获取更多学习资料

第六单元 认识分数

练习1 分一分（一）

用时：____分____秒　错误：　个

A组 常规口算题

46 ÷ 2 =	24 × 20 =	21 × 30 =
8 × 40 =	52 ÷ 4 =	49 ÷ 7 =
23 × 30 =	8 × 50 =	41 × 50 =
125 ÷ 5 =	135 ÷ 3 =	112 ÷ 4 =
372 − 152 =	60 × 50 =	6 × 80 =
56 ÷ 4 =	200 ÷ 8 =	88 ÷ 4 =
50 × 40 =	58 ÷ 2 =	53 × 4 =
130 ÷ 5 =	472 − 152 =	201 ÷ 3 =
68 ÷ 4 =	44 × 30 =	60 × 60 =
9 × 50 =	66 ÷ 3 =	235 + 145 =
41 × 30 =	246 ÷ 2 =	75 ÷ 3 =
77 ÷ 7 =	8 × 70 =	9 × 70 =
80 × 90 =	74 ÷ 2 =	63 × 30 =
225 ÷ 5 =	325 ÷ 5 =	80 × 80 =
30 × 62 =	82 × 20 =	478 − 253 =
92 ÷ 2 =	90 × 90 =	314 ÷ 2 =

B组 变式口算题

分别涂出下面图形的$\frac{1}{4}$。

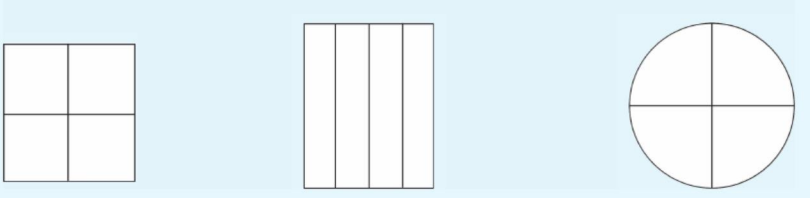

关注微信公众号“教辅资料站”获取更多学习资料

练习2 分一分（二）

用时：____分____秒 错误：　个

A组 常规口算题

27 × 10 =	24 ÷ 2 =	25 × 40 =
35 ÷ 5 =	23 × 20 =	55 ÷ 5 =
128 ÷ 4 =	138 ÷ 3 =	30 × 30 =
30 × 20 =	4 × 90 =	6 × 70 =
5 × 40 =	40 × 40 =	104 ÷ 8 =
372 − 103 =	367 − 108 =	57 ÷ 3 =
45 ÷ 3 =	44 ÷ 2 =	84 ÷ 4 =
156 ÷ 4 =	195 ÷ 5 =	28 × 50 =
40 × 7 =	34 × 50 =	105 ÷ 7 =
50 × 60 =	147 ÷ 7 =	9 × 60 =
64 ÷ 4 =	5 × 80 =	410 + 205 =
235 ÷ 5 =	70 × 70 =	70 × 80 =
99 ÷ 3 =	98 ÷ 7 =	168 ÷ 6 =
330 ÷ 3 =	582 − 301 =	61 × 60 =
61 × 40 =	41 × 40 =	322 ÷ 7 =
478 − 127 =	80 × 81 =	684 − 272 =

B组 变式口算题

按分数圈一圈。



$\frac{3}{5}$

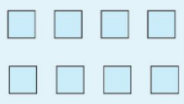

$\frac{7}{8}$

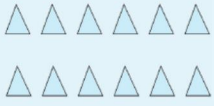

$\frac{7}{12}$

关注微信公众号“教辅资料站”获取更多学习资料

练习3 比大小

用时：____分____秒 错误：　个

A组 常规口算题

13 ×20 =　　11 ×20 =

44 ÷4 =　　38 ÷2 =

5 ×30 =　　104 ÷4 =

124 ÷4 =　　23 ×30 =

20 ×21 =　　30 ×40 =

40 ×50 =　　378 −102 =

234 +105 =　　125 ÷5 =

48 ÷2 =　　112 ÷7 =

105 ÷5 =　　26 ×30 =

23 ×40 =　　50 ×50 =

66 ÷2 =　　128 ÷8 =

51 ×30 =　　8 ×80 =

60 ×60 =　　70 ×80 =

9 ×70 =　　207 ÷9 =

245 ÷7 =　　37 ×40 =

456 −232 =　　527 −403 =

◆ 送“ >”“ <”回家。

$\frac{7}{8}\bigcirc\frac{3}{8}$　$\frac{1}{8}\bigcirc\frac{1}{7}$　$\frac{5}{8}\bigcirc\frac{2}{8}$　$\frac{3}{4}\bigcirc\frac{2}{4}$　$\frac{1}{2}\bigcirc\frac{1}{4}$　$\frac{3}{5}\bigcirc\frac{2}{5}$　$\frac{4}{5}\bigcirc\frac{4}{7}$　$\frac{1}{9}\bigcirc\frac{1}{6}$　$\frac{1}{3}\bigcirc\frac{1}{9}$　$\frac{4}{8}\bigcirc\frac{2}{8}$　$\frac{3}{4}\bigcirc\frac{1}{4}$　$\frac{3}{7}\bigcirc\frac{6}{7}$

B组 变式口算题

看图写分数，比大小。

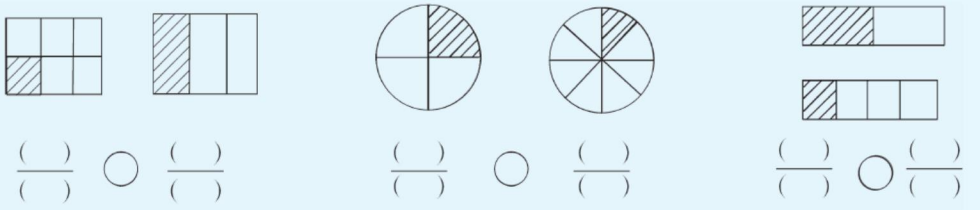

关注微信公众号“教辅资料站”获取更多学习资料

练习4 吃西瓜

用时：____分____秒 错误：　个

A组 常规口算题

$\frac{2}{3}-\frac{1}{3}=$	$\frac{1}{2}+\frac{1}{2}=$	$\frac{1}{4}-\frac{1}{4}=$	$\frac{4}{5}+\frac{1}{5}=$
$\frac{3}{4}+\frac{1}{4}=$	$\frac{4}{6}-\frac{1}{6}=$	$\frac{2}{5}+\frac{1}{5}=$	$\frac{5}{6}-\frac{1}{6}=$
$\frac{3}{5}+\frac{1}{5}=$	$\frac{3}{7}+\frac{1}{7}=$	$\frac{5}{8}-\frac{3}{8}=$	$\frac{4}{7}-\frac{2}{7}=$
$\frac{5}{6}-\frac{5}{6}=$	$\frac{7}{8}-\frac{3}{8}=$	$\frac{5}{7}+\frac{2}{7}=$	$\frac{2}{5}+\frac{2}{5}=$
$\frac{6}{7}-\frac{5}{7}=$	$\frac{5}{6}+\frac{1}{6}=$	$\frac{1}{8}+\frac{7}{8}=$	$\frac{5}{9}-\frac{1}{9}=$
$\frac{7}{9}-\frac{2}{9}=$	$\frac{1}{9}+\frac{2}{9}=$	$\frac{5}{8}-\frac{1}{8}=$	$\frac{4}{7}+\frac{2}{7}=$
$\frac{3}{10}-\frac{1}{10}=$	$\frac{8}{9}-\frac{7}{9}=$	$\frac{7}{9}-\frac{3}{9}=$	$\frac{3}{8}+\frac{2}{8}=$
$\frac{5}{10}+\frac{1}{10}=$	$\frac{7}{10}-\frac{3}{10}=$	$\frac{1}{10}+\frac{5}{10}=$	$\frac{2}{11}+\frac{2}{11}=$
$\frac{7}{11}-\frac{4}{11}=$	$\frac{1}{11}+\frac{2}{11}=$	$\frac{7}{12}-\frac{1}{12}=$	$\frac{7}{13}-\frac{7}{13}=$
$\frac{8}{11}+\frac{3}{11}=$	$\frac{4}{11}-\frac{2}{11}=$	$\frac{8}{13}-\frac{2}{13}=$	$\frac{5}{12}-\frac{1}{12}=$
$\frac{7}{12}-\frac{5}{12}=$	$\frac{5}{13}+\frac{2}{13}=$	$\frac{5}{12}+\frac{5}{12}=$	$\frac{9}{13}-\frac{7}{13}=$
$\frac{7}{13}+\frac{2}{13}=$	$\frac{7}{12}+\frac{3}{12}=$	$\frac{9}{11}-\frac{1}{11}=$	$\frac{8}{14}+\frac{1}{14}=$

B组 变式口算题

涂一涂，算一算。

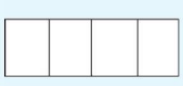

$\frac{1}{4}+\frac{1}{4}=$

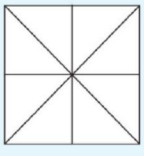

$\frac{5}{8}+\frac{2}{8}=$

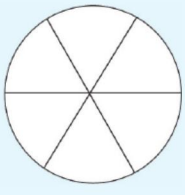

$1-\frac{1}{6}=$

关注微信公众号“教辅资料站”获取更多学习资料

练习5 习题课

用时：____分____秒 错误：　个

A组 常规口算题

◆ 比较大小。

$\frac{1}{7}\bigcirc\frac{1}{5}$　$\frac{4}{7}\bigcirc\frac{6}{7}$　$\frac{4}{9}\bigcirc\frac{1}{9}$　$\frac{2}{3}\bigcirc\frac{2}{5}$　$\frac{4}{5}\bigcirc\frac{3}{5}$　$\frac{7}{9}\bigcirc\frac{2}{9}$　$\frac{1}{5}\bigcirc\frac{3}{5}$　$\frac{1}{5}\bigcirc\frac{1}{3}$　$\frac{4}{9}\bigcirc\frac{7}{9}$　$\frac{2}{9}\bigcirc\frac{1}{9}$　$\frac{3}{9}\bigcirc\frac{1}{9}$

$\frac{1}{3}\bigcirc\frac{2}{3}$　$\frac{1}{9}\bigcirc\frac{1}{10}$　$\frac{1}{2}\bigcirc\frac{1}{3}$　$\frac{1}{7}\bigcirc\frac{1}{6}$　$\frac{1}{5}\bigcirc\frac{1}{4}$　$\frac{5}{7}\bigcirc\frac{2}{7}$　$\frac{1}{6}\bigcirc\frac{1}{3}$　$\frac{4}{6}\bigcirc\frac{2}{6}$　$\frac{2}{5}\bigcirc\frac{3}{5}$　$\frac{5}{9}\bigcirc\frac{7}{9}$　$\frac{1}{4}\bigcirc\frac{3}{4}$　$\frac{1}{7}\bigcirc\frac{1}{9}$

$\frac{3}{4}-\frac{3}{4}=$　$\frac{3}{5}-\frac{1}{5}=$　$\frac{2}{6}+\frac{1}{6}=$　$\frac{4}{7}+\frac{1}{7}=$　$\frac{5}{7}-\frac{1}{7}=$　$\frac{6}{8}+\frac{2}{8}=$　$\frac{4}{9}+\frac{1}{9}=$　$\frac{8}{9}-\frac{2}{9}=$　$\frac{7}{10}-\frac{4}{10}=$　$\frac{4}{11}+\frac{2}{11}=$　$\frac{5}{12}+\frac{7}{12}=$　$\frac{4}{13}+\frac{2}{13}=$

$\frac{2}{3}+\frac{1}{3}=$　$\frac{3}{4}-\frac{1}{4}=$　$\frac{4}{5}-\frac{2}{5}=$　$\frac{4}{6}+\frac{1}{6}=$　$\frac{6}{7}-\frac{1}{7}=$　$\frac{5}{8}+\frac{3}{8}=$　$\frac{5}{9}-\frac{2}{9}=$　$\frac{5}{10}-\frac{2}{10}=$　$\frac{7}{11}-\frac{2}{11}=$　$\frac{9}{11}-\frac{3}{11}=$　$\frac{7}{13}-\frac{5}{13}=$　$\frac{4}{12}+\frac{5}{12}=$

B组 变式口算题

1. 一根绳子，第一次用去$\frac{3}{10}$米，第二次用去$\frac{4}{10}$米，两次共用去(　　)米。

2. 一个长方形的长是$\frac{7}{8}$米，比宽长$\frac{2}{8}$米，这个长方形的宽是(　　)米。

3. 李师傅计划生产一批零件，第一周完成了$\frac{2}{9}$，第二周完成了$\frac{3}{9}$，两周共完成了(　　)，还剩下(　　)没有完成。

4. 一块菜地的$\frac{2}{7}$种黄瓜，$\frac{3}{7}$种茄子，其余的种菠菜，菠菜种了这块菜地的(　　)。

关注微信公众号“教辅资料站”获取更多学习资料

练习6 习题课

用时：____分____秒 错误：　个

A组 常规口算题

$\frac{3}{4}+\frac{1}{4}=$	$\frac{3}{5}+\frac{1}{5}=$	$\frac{1}{2}-\frac{1}{2}=$	$\frac{1}{3}+\frac{1}{3}=$
$\frac{2}{5}+\frac{1}{5}=$	$\frac{1}{4}+\frac{1}{4}=$	$\frac{2}{3}-\frac{1}{3}=$	$\frac{4}{5}-\frac{1}{5}=$
$\frac{4}{6}-\frac{1}{6}=$	$\frac{5}{6}-\frac{1}{6}=$	$\frac{1}{4}-\frac{1}{4}=$	$\frac{5}{6}-\frac{3}{6}=$
$\frac{5}{7}+\frac{1}{7}=$	$\frac{5}{7}+\frac{2}{7}=$	$\frac{1}{5}+\frac{1}{5}=$	$\frac{3}{7}+\frac{2}{7}=$
$\frac{6}{8}+\frac{1}{8}=$	$\frac{8}{9}-\frac{1}{9}=$	$\frac{3}{6}-\frac{1}{6}=$	$\frac{5}{8}-\frac{1}{8}=$
$\frac{7}{9}-\frac{2}{9}=$	$\frac{7}{8}+\frac{1}{8}=$	$\frac{4}{7}+\frac{3}{7}=$	$\frac{7}{9}-\frac{4}{9}=$
$\frac{7}{8}-\frac{1}{8}=$	$\frac{5}{10}+\frac{5}{10}=$	$\frac{3}{8}+\frac{2}{8}=$	$\frac{4}{11}+\frac{4}{11}=$
$\frac{6}{7}+\frac{1}{7}=$	$\frac{6}{11}-\frac{6}{11}=$	$\frac{5}{9}-\frac{4}{9}=$	$\frac{7}{12}+\frac{4}{12}=$
$\frac{7}{10}+\frac{2}{10}=$	$\frac{9}{12}-\frac{1}{12}=$	$\frac{1}{10}+\frac{3}{10}=$	$\frac{8}{13}-\frac{5}{13}=$
$\frac{5}{11}-\frac{3}{11}=$	$\frac{4}{13}+\frac{5}{13}=$	$\frac{5}{11}+\frac{6}{11}=$	$\frac{9}{14}-\frac{3}{14}=$
$\frac{8}{12}-\frac{5}{12}=$	$\frac{7}{14}+\frac{1}{14}=$	$\frac{7}{13}-\frac{2}{13}=$	$\frac{14}{15}-\frac{4}{15}=$
$\frac{9}{13}+\frac{4}{13}=$	$\frac{6}{15}-\frac{3}{15}=$	$\frac{9}{16}-\frac{7}{16}=$	$\frac{8}{16}+\frac{3}{16}=$

B组 变式口算题

1. 农民伯伯给一块地锄草，上午锄了$\frac{4}{9}$，下午锄了$\frac{2}{9}$，下午比上午少锄了这块地的（　　），这块地还剩（　　）没有锄。
2. 小明用一张纸的$\frac{5}{9}$做红花，小强用这张纸的$\frac{2}{9}$做小旗。两人一共用去了这张纸的（　　），小强比小明少用了这张纸的（　　），这张纸还剩下（　　）。
3. 一块巧克力，小东吃了$\frac{1}{8}$，小红吃了$\frac{3}{8}$，还剩（　　）没有吃。
4. 工人叔叔修一条路，第一天修了全长的$\frac{3}{8}$，第二天修了全长的$\frac{2}{8}$，两天一共修了全长的（　　），再修全长的（　　）就修完了。

关注微信公众号“教辅资料站”获取更多学习资料

第六单元口算能力测试

用时：____分____秒　错误：　个

A组 常规口算题

◆ 比较大小。

$1 \bigcirc \frac{8}{8}$　$\frac{1}{2} \bigcirc \frac{1}{5}$　$1 \bigcirc \frac{9}{10}$　$\frac{2}{4} \bigcirc \frac{1}{4}$　$\frac{9}{9} \bigcirc 1$　$\frac{1}{3} \bigcirc \frac{1}{4}$　$\frac{6}{7} \bigcirc \frac{7}{7}$　$\frac{4}{5} \bigcirc \frac{3}{5}$　$\frac{1}{5} \bigcirc \frac{1}{3}$　$\frac{6}{8} \bigcirc \frac{4}{8}$　$\frac{1}{9} \bigcirc \frac{1}{2}$

$\frac{1}{2}+\frac{1}{2}=$　$\frac{2}{4}+\frac{1}{4}=$　$\frac{3}{5}+\frac{1}{5}=$　$1-\frac{1}{6}=$　$\frac{4}{7}+\frac{1}{7}=$　$\frac{3}{8}+\frac{3}{8}=$　$\frac{7}{9}+\frac{2}{9}=$　$\frac{7}{10}+\frac{3}{10}=$　$\frac{5}{11}+\frac{5}{11}=$　$\frac{9}{12}+\frac{1}{12}=$　$\frac{11}{13}-\frac{11}{13}=$　$\frac{5}{14}-\frac{3}{14}=$

$\frac{2}{5}-\frac{1}{5}=$　$\frac{3}{5}-\frac{3}{5}=$　$\frac{4}{6}+\frac{1}{6}=$　$\frac{4}{7}+\frac{2}{7}=$　$\frac{3}{8}+\frac{1}{8}=$　$\frac{2}{9}+\frac{1}{9}=$　$\frac{7}{10}+\frac{1}{10}=$　$\frac{7}{11}-\frac{4}{11}=$　$\frac{5}{12}-\frac{4}{12}=$　$\frac{4}{13}+\frac{2}{13}=$　$\frac{9}{14}-\frac{5}{14}=$　$\frac{7}{16}+\frac{3}{16}=$

$\frac{2}{3}+\frac{1}{3}=$　$\frac{3}{4}+\frac{1}{4}=$　$\frac{5}{6}+\frac{1}{6}=$　$\frac{5}{7}-\frac{1}{7}=$　$\frac{5}{8}-\frac{2}{8}=$　$\frac{5}{9}-\frac{1}{9}=$　$\frac{9}{10}-\frac{2}{10}=$　$\frac{2}{11}+\frac{3}{11}=$　$\frac{3}{12}+\frac{1}{12}=$　$\frac{7}{13}+\frac{2}{13}=$　$\frac{9}{15}-\frac{2}{15}=$　$\frac{9}{16}-\frac{3}{16}=$

B组 变式口算题

1. 在(　　)里填上合适的分数。

(　　)$-\frac{1}{5}=\frac{4}{5}$　　(　　)$+\frac{2}{5}=\frac{3}{5}$　　$\frac{7}{8}-$(　　)$=\frac{1}{8}$

$\frac{4}{11}+$(　　)$=\frac{7}{11}$　　$\frac{9}{13}-$(　　)$=\frac{6}{13}$　　$\frac{5}{6}-$(　　)$=\frac{1}{6}$

$\frac{8}{15}+$(　　)$=1$　　$1-$(　　)$=\frac{5}{7}$　　$\frac{11}{21}+$(　　)$=\frac{20}{21}$

2. 王大爷把一块地平均分成了7份，其中2份种西红柿，3份种黄瓜，其余的种茄子，西红柿种了这块地的(　　)，黄瓜种了这块地的(　　)，茄子种了这块地的(　　)。

关注微信公众号“教辅资料站”获取更多学习资料

第七单元 数据的整理和表示

练习1 小小鞋店

用时：____分____秒　错误：　个

A组 常规口算题

$\frac{4}{10}+\frac{5}{10}=$	$\frac{2}{10}+\frac{5}{10}=$	$\frac{1}{10}+\frac{3}{10}=$	$\frac{1}{4}-\frac{1}{4}=$
$\frac{1}{4}+\frac{3}{4}=$	$\frac{3}{5}-\frac{1}{5}=$	$\frac{3}{8}-\frac{2}{8}=$	$\frac{4}{5}-\frac{1}{5}=$
$\frac{2}{9}+\frac{2}{9}=$	$\frac{3}{9}+\frac{4}{9}=$	$\frac{1}{7}+\frac{6}{7}=$	$\frac{5}{6}-\frac{1}{6}=$
$\frac{2}{7}+\frac{3}{7}=$	$\frac{1}{7}+\frac{2}{7}=$	$\frac{6}{7}-\frac{5}{7}=$	$\frac{3}{8}+\frac{4}{8}=$
$\frac{4}{10}+\frac{3}{10}=$	$\frac{4}{6}+\frac{2}{6}=$	$\frac{5}{8}+\frac{3}{8}=$	$\frac{6}{7}-\frac{2}{7}=$
$\frac{6}{10}+\frac{4}{10}=$	$\frac{1}{8}+\frac{5}{8}=$	$\frac{1}{5}+\frac{2}{5}=$	$\frac{6}{9}+\frac{2}{9}=$
$\frac{1}{3}+\frac{1}{3}=$	$\frac{4}{10}+\frac{4}{10}=$	$\frac{2}{8}+\frac{1}{8}=$	$\frac{6}{10}+\frac{2}{10}=$
$\frac{2}{10}+\frac{8}{10}=$	$\frac{2}{7}+\frac{5}{7}=$	$\frac{3}{10}+\frac{2}{10}=$	$\frac{5}{11}+\frac{4}{11}=$
$\frac{7}{10}+\frac{2}{10}=$	$\frac{3}{10}+\frac{5}{10}=$	$\frac{1}{9}+\frac{1}{9}=$	$\frac{7}{12}-\frac{1}{12}=$
$\frac{3}{8}+\frac{2}{8}=$	$\frac{1}{5}+\frac{4}{5}=$	$\frac{1}{8}+\frac{1}{8}=$	$\frac{7}{14}-\frac{1}{14}=$
$\frac{2}{5}+\frac{3}{5}=$	$\frac{2}{6}+\frac{3}{6}=$	$\frac{4}{8}+\frac{2}{8}=$	$\frac{4}{15}+\frac{2}{15}=$
$\frac{6}{8}+\frac{2}{8}=$	$\frac{1}{10}+\frac{8}{10}=$	$\frac{1}{4}+\frac{1}{4}=$	$\frac{4}{17}+\frac{3}{17}=$

B组 变式口算题

动物乐园。



1. 用你喜欢的颜色涂一涂。



2. 数一数，填一填。

动物	熊猫	大象	老虎	猴子
数量	(　)只	(　)头	(　)只	(　)只

关注微信公众号“教辅资料站”获取更多学习资料

练习2 快乐成长

用时：____分____秒 错误：　个

A组 常规口算题

$1-\frac{3}{4}=$	$\frac{7}{10}-\frac{3}{10}=$	$\frac{7}{8}-\frac{5}{8}=$	$\frac{1}{8}+\frac{6}{8}=$
$\frac{4}{5}-\frac{3}{5}=$	$\frac{6}{9}-\frac{5}{9}=$	$\frac{6}{7}-\frac{5}{7}=$	$\frac{2}{7}+\frac{2}{7}=$
$\frac{5}{7}-\frac{1}{7}=$	$1-\frac{5}{8}=$	$1-\frac{4}{10}=$	$\frac{5}{7}-\frac{4}{7}=$
$1-\frac{1}{5}=$	$\frac{3}{5}-\frac{2}{5}=$	$1-\frac{2}{3}=$	$\frac{2}{9}+\frac{3}{9}=$
$\frac{7}{10}-\frac{1}{10}=$	$\frac{7}{9}-\frac{3}{9}=$	$\frac{5}{8}-\frac{3}{8}=$	$\frac{6}{8}-\frac{4}{8}=$
$\frac{5}{6}+\frac{1}{6}=$	$1-\frac{3}{6}=$	$1-\frac{8}{10}=$	$\frac{2}{4}+\frac{1}{4}=$
$1-\frac{2}{9}=$	$\frac{5}{8}-\frac{1}{8}=$	$\frac{7}{10}-\frac{4}{10}=$	$\frac{4}{9}+\frac{5}{9}=$
$\frac{5}{6}-\frac{2}{6}=$	$\frac{6}{10}-\frac{1}{10}=$	$\frac{3}{7}-\frac{1}{7}=$	$\frac{9}{10}-\frac{7}{10}=$
$\frac{7}{9}-\frac{6}{9}=$	$\frac{3}{10}-\frac{2}{10}=$	$\frac{5}{10}-\frac{1}{10}=$	$1-\frac{7}{10}=$
$\frac{9}{10}-\frac{3}{10}=$	$1-\frac{2}{7}=$	$\frac{4}{6}-\frac{1}{6}=$	$\frac{7}{10}-\frac{2}{10}=$
$1-\frac{7}{8}=$	$1-\frac{5}{6}=$	$\frac{8}{9}-\frac{3}{9}=$	$\frac{9}{10}-\frac{2}{10}=$
$\frac{3}{7}-\frac{2}{7}=$	$\frac{4}{7}-\frac{3}{7}=$	$1-\frac{2}{4}=$	$\frac{1}{10}+\frac{4}{10}=$

B组 变式口算题

右面是三年级同学喜欢各种体育活动的人数整理情况。

1. 从图中可以看出，喜欢(　　)的人数最多，喜欢(　　)的人数最少，相差(　　)人。

2. 一共调查了(　　)人。

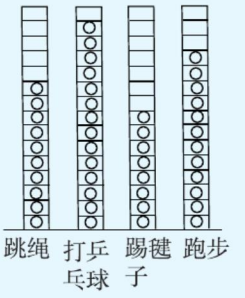

关注微信公众号“教辅资料站”获取更多学习资料

第七单元口算能力测试

用时：____分____秒　错误：　个

A组 常规口算题

$\frac{4}{9}-\frac{2}{9}=$	$1-\frac{8}{9}=$	$\frac{5}{6}-\frac{1}{6}=$	$\frac{1}{6}+\frac{4}{6}=$
$\frac{8}{9}-\frac{7}{9}=$	$\frac{1}{10}+\frac{6}{10}=$	$1-\frac{3}{5}=$	$1-\frac{3}{9}=$
$\frac{1}{8}+\frac{3}{8}=$	$\frac{1}{9}+\frac{2}{9}=$	$\frac{2}{8}+\frac{3}{8}=$	$1-\frac{7}{9}=$
$1-\frac{1}{3}=$	$\frac{2}{8}-\frac{1}{8}=$	$\frac{3}{7}+\frac{4}{7}=$	$\frac{3}{10}+\frac{5}{10}=$
$\frac{1}{7}+\frac{6}{7}=$	$\frac{6}{10}-\frac{3}{10}=$	$\frac{8}{9}-\frac{5}{9}=$	$\frac{1}{9}+\frac{4}{9}=$
$\frac{4}{10}-\frac{1}{10}=$	$\frac{2}{9}+\frac{2}{9}=$	$\frac{2}{6}+\frac{4}{6}=$	$1-\frac{1}{6}=$
$1-\frac{5}{10}=$	$\frac{1}{9}+\frac{1}{9}=$	$\frac{4}{7}-\frac{2}{7}=$	$\frac{3}{10}+\frac{4}{10}=$
$\frac{7}{10}+\frac{3}{10}=$	$\frac{5}{8}-\frac{4}{8}=$	$\frac{4}{5}-\frac{1}{5}=$	$\frac{1}{6}+\frac{3}{6}=$
$\frac{7}{9}-\frac{1}{9}=$	$1-\frac{4}{8}=$	$\frac{6}{7}-\frac{3}{7}=$	$\frac{3}{9}-\frac{2}{9}=$
$1-\frac{5}{9}=$	$\frac{1}{5}+\frac{2}{5}=$	$\frac{1}{7}+\frac{3}{7}=$	$\frac{5}{8}+\frac{3}{8}=$
$\frac{2}{7}+\frac{4}{7}=$	$\frac{3}{7}+\frac{2}{7}=$	$\frac{3}{7}+\frac{3}{7}=$	$1-\frac{8}{10}=$
$\frac{3}{9}+\frac{6}{9}=$	$\frac{2}{10}+\frac{3}{10}=$	$1-\frac{6}{8}=$	$\frac{1}{9}+\frac{6}{9}=$

B组 变式口算题

1. 把 24 个桃平均分成 8 份，每份是这些桃的(　　)，5 份是这些桃的(　　)。

2. 把 10 个苹果平均分给 5 个小朋友，1 个小朋友分得这些苹果的(　　)，是(　　)个。4 个小朋友共分得这些苹果的(　　)，是(　　)个。

3. 一堆小棒有 18 根，它的$\frac{1}{3}$是(　　)根，如果把这些小棒平均分成 6 份，其中 5 份占这些小棒的(　　)，是(　　)根。

关注微信公众号“教辅资料站”获取更多学习资料

难易等级：

练习1　数的认识

用时：____分____秒　错误：　个

A组　常规口算题

210 ÷ 3 =	36 ÷ 3 =	$\frac{2}{3}$ ◯ $\frac{1}{3}$	$1-\frac{2}{9}=$
10 × 19 =	122 ÷ 2 =	$\frac{1}{6}$ ◯ $\frac{1}{8}$	$\frac{6}{7}-\frac{1}{7}=$
30 ÷ 2 =	12 × 30 =	$\frac{3}{7}$ ◯ $\frac{5}{7}$	$\frac{4}{7}-\frac{3}{7}=$
13 × 100 =	11 × 200 =	$\frac{1}{2}$ ◯ $\frac{1}{3}$	$\frac{3}{6}+\frac{3}{6}=$
102 ÷ 2 =	120 ÷ 4 =	$\frac{1}{5}$ ◯ $\frac{1}{8}$	$1-\frac{1}{4}=$
20 × 14 =	12 × 4 =	$\frac{5}{6}$ ◯ $\frac{2}{6}$	$\frac{8}{10}-\frac{5}{10}=$
38 ÷ 2 =	39 ÷ 3 =	$\frac{1}{6}$ ◯ $\frac{1}{7}$	$\frac{4}{10}-\frac{3}{10}=$
42 × 100 =	111 × 3 =	$\frac{2}{7}$ ◯ $\frac{2}{9}$	$\frac{2}{9}+\frac{4}{9}=$
106 ÷ 2 =	213 ÷ 3 =	$\frac{7}{8}$ ◯ $\frac{5}{8}$	$\frac{2}{6}+\frac{2}{6}=$
30 × 16 =	21 × 20 =	$\frac{1}{10}$ ◯ $\frac{1}{8}$	$\frac{6}{10}-\frac{1}{10}=$
58 ÷ 2 =	68 ÷ 4 =	$\frac{8}{8}$ ◯ $\frac{7}{7}$	$1-\frac{6}{10}=$
53 × 100 =	150 × 20 =	$\frac{7}{10}$ ◯ $\frac{9}{10}$	$\frac{1}{10}+\frac{7}{10}=$
200 × 23 =	150 ÷ 5 =		
40 × 16 =	212 × 2 =		
88 ÷ 2 =	60 ÷ 5 =		
300 × 25 =	15 × 30 =		

B组　变式口算题

1. 8464 是由(　　)个千,(　　)个百,(　　)个十,(　　)个一组成。

2. $\frac{7}{9}$读作(　　),是由(　　)个$\frac{1}{9}$组成,1 是由(　　)个$\frac{1}{7}$组成。

3. (1)2600,2300,2000,(　　),(　　),(　　)。

(2)$\frac{2}{9}$,$\frac{3}{9}$,$\frac{4}{9}$,(　　),(　　),(　　)。

(3)0.2,0.3,0.5,0.8,1.3,(　　),(　　),(　　)。

关注微信公众号“教辅资料站”获取更多学习资料

练习2　数的运算（一）

用时：____分____秒　错误：　个

A组　常规口算题

$11 \times 50 =$　　$32 \div 2 =$　　$\frac{2}{4} - \frac{1}{4} =$

$26 \div 2 =$　　$12 \times 50 =$　　$\frac{6}{9} + \frac{2}{9} =$

$100 \times 19 =$　　$130 \times 30 =$　　$\frac{1}{6} + \frac{2}{6} =$

$44 \div 2 =$　　$77 \div 7 =$　　$\frac{5}{9} - \frac{3}{9} =$

$21 \times 20 =$　　$131 \times 2 =$　　$\frac{3}{10} + \frac{1}{10} =$

$15 \times 3 =$　　$68 \div 2 =$　　$\frac{1}{6} + \frac{1}{6} =$

$74 \div 2 =$　　$52 \times 4 =$　　$1 - \frac{6}{8} =$

$211 \times 3 =$　　$100 \div 2 =$　　$1 - \frac{2}{4} =$

$305 \div 5 =$　　$30 \times 15 =$　　$1 - \frac{4}{5} =$

$24 \times 4 =$　　$64 \times 7 =$　　$1 - \frac{1}{7} =$

$166 \div 2 =$　　$266 \div 2 =$　　$\frac{3}{8} + \frac{3}{8} =$

$55 \div 5 =$　　$26 \times 70 =$　　$\frac{3}{6} - \frac{1}{6} =$

$140 \times 20 =$　　$240 \times 20 =$

$125 \div 5 =$　　$305 \div 5 =$

$18 \times 30 =$　　$29 \times 200 =$

$68 \div 4 =$　　$180 \times 30 =$

◆ 比较大小。

$\frac{1}{5} \bigcirc \frac{1}{8}$

$\frac{1}{8} \bigcirc \frac{1}{2}$

$1 \bigcirc \frac{4}{4}$

$\frac{6}{9} \bigcirc \frac{3}{9}$

$\frac{1}{7} \bigcirc \frac{1}{10}$

$\frac{6}{7} \bigcirc \frac{4}{7}$

$\frac{5}{6} \bigcirc \frac{6}{6}$

$\frac{1}{3} \bigcirc \frac{1}{9}$

$\frac{2}{9} \bigcirc \frac{1}{9}$

$\frac{1}{10} \bigcirc \frac{1}{6}$

$\frac{1}{6} \bigcirc \frac{1}{5}$

B组　变式口算题

1. 列竖式计算。

$575 \div 5 =$　　$46 \times 28 =$　　$756 \div 9 =$　　$57 \times 36 =$

2. 一台拖拉机耕地，第二天耕了这块地的$\frac{3}{10}$，比第一天多耕了这块地的$\frac{1}{10}$，第一天耕了这块地的(　　)，还剩下这块地的(　　)没有耕。

关注微信公众号“教辅资料站”获取更多学习资料

练习3 数的运算（二）

用时：____分____秒 错误：　个

A组 常规口算题

156 + 204 =	$\frac{3}{7}-\frac{1}{7}=$	14 × (354 − 334) =
25 × 30 =	$\frac{9}{10}-\frac{3}{10}=$	33 × (476 − 446) =
42 ÷ 2 =	$\frac{1}{3}+\frac{1}{3}=$	42 × (110 − 90) =
147 ÷ 3 =	$\frac{2}{4}+\frac{2}{4}=$	40 ÷ 2 × 7 =
30 × 30 =	$\frac{6}{9}-\frac{1}{9}=$	70 ÷ 2 × 6 =
4 × 50 =	$\frac{1}{9}+\frac{4}{9}=$	60 ÷ 4 × 3 =
375 − 125 =	$\frac{9}{10}-\frac{2}{10}=$	160 ÷ 2 × 7 =
46 ÷ 2 =	$\frac{1}{6}+\frac{5}{6}=$	240 ÷ 3 × 2 =
150 ÷ 5 =	$\frac{2}{7}+\frac{4}{7}=$	13 × (14 + 26) =
40 × 50 =	$\frac{7}{9}-\frac{5}{9}=$	36 × (23 + 27) =
475 + 105 =	$\frac{1}{4}+\frac{3}{4}=$	21 × 21 − 200 =
82 ÷ 2 =	$\frac{8}{10}-\frac{1}{10}=$	12 × 30 ÷ 2 =
260 ÷ 5 =		15 × 20 ÷ 3 =
26 × 50 =		44 × 30 ÷ 6 =
88 ÷ 8 =		32 × 30 ÷ 4 =
86 ÷ 2 =		23 × 20 ÷ 5 =

B组 变式口算题

1. 20 个人正好租 4 条小船，照这样，37 个人需要租(　　)小船。

A. 7 条　　B. 8 条　　C. 12 条

2. 亮亮的相册每页放 6 张照片，明明的相册每页比亮亮多放 2 张，照这样，明明的相册有 12 页，可以放多少张照片？列式正确的是(　　)。

A. 6 ÷ 2 × 12　　B. 6 + 2 × 12　　C. (6 + 2) × 12

3. 母亲节那天，花店运进一批康乃馨，如果每 8 朵扎一束，可以扎 96 束，如果每 6 朵扎一束，可以扎(　　)束。

关注微信公众号“教辅资料站”获取更多学习资料

练习4　常见的量

用时：____分____秒　错误：　个

A组　常规口算题

3 吨 =（　　）千克　　1 米 =（　　）分米

6 米 =（　　）分米　　5 千克 =（　　）克

2000 克 =（　　）千克　　50 厘米 =（　　）分米

150 角 =（　　）元　　3 元 =（　　）角

1 年 =（　　）月　　5000 千克 =（　　）吨

8000 米 =（　　）千米　　120 分 =（　　）角

100 分 =（　　）角　　300 毫米 =（　　）厘米

2 时 =（　　）分　　5 分 =（　　）秒

1 天 =（　　）时　　180 分 =（　　）时

200 分米 =（　　）米　　4000 米 =（　　）千米

10 千米 =（　　）米　　50 角 =（　　）元

5 千克 =（　　）克　　6000 克 =（　　）千克

4 分米 7 厘米 =（　　）厘米　　5.2 元 =（　　）元（　　）角

7 吨 900 千克 =（　　）千克　　8 千米 800 米 =（　　）米

1 元 5 角 =（　　）角　　2000 千克 =（　　）吨

4.2 米 =（　　）米（　　）分米　　6 时 30 分 =（　　）分

B组　变式口算题

在（　　）里填上合适的单位。

1. 小明每步的长度约是 4（　　）。　　2. 一个苹果重 200（　　）。

3. 课间操要 20（　　）。　　4. 一辆小货车载重 3（　　）。

5. 买一支圆珠笔要 1.5（　　）。　　6. 小明从家到学校要走 800（　　）。

7. 从上海坐火车到北京约要 6（　　）。　　8. 一个小学生的体重约 35（　　）。

9. 客车的长度约 8（　　）。　　10. 一个客厅的面积约 20（　　）。

关注微信公众号“教辅资料站”获取更多学习资料

练习5 图形的认识

用时：____分____秒 错误：　个

A组 常规口算题

124 + 301 =
28 ÷ 4 =
$\frac{3}{10} - \frac{1}{10}$ =
8 × 70 =
24 × 60 =
364 − 214 =
36 ÷ 3 =
144 ÷ 4 =
$\frac{8}{9} + \frac{1}{9}$ =
45 ÷ 3 =
214 ÷ 2 =
26 × 30 =
9 × 80 =
70 × 80 =
56 ÷ 2 =
$\frac{7}{11} - \frac{2}{11}$ =

32 ÷ 4 =
5 × 60 =
256 + 104 =
21 × 70 =
156 ÷ 2 =
$\frac{3}{5} + \frac{2}{5}$ =
84 ÷ 4 =
7 × 40 =
40 × 90 =
224 ÷ 4 =
25 × 80 =
$\frac{7}{14} - \frac{2}{14}$ =
456 − 214 =
43 × 20 =
333 ÷ 3 =
$\frac{7}{15} + \frac{2}{15}$ =

124 + 201 =
54 ÷ 3 =
$\frac{3}{4} - \frac{1}{4}$ =
432 − 301 =
5 × 40 =
102 ÷ 3 =
$\frac{6}{7} - \frac{2}{7}$ =
14 × 70 =
278 + 201 =
70 × 70 =
63 ÷ 7 =
$\frac{7}{9} - \frac{2}{9}$ =
567 − 321 =
49 × 30 =
288 ÷ 4 =
678 − 438 =

B组 变式口算题

右面四幅图分别是谁看到的？（连一连）





关注微信公众号“教辅资料站”获取更多学习资料



练习6　图形与测量

用时：____分____秒　错误：　个

A组　常规口算题

3 平方米 =（　　）平方分米

6 平方分米 =（　　）平方厘米

500 平方分米 =（　　）平方米

（　　）平方分米 =4 平方米

（　　）平方分米 =300 平方厘米

200 平方分米 =（　　）平方米

30 平方米 =（　　）平方分米

（　　）平方厘米 =7 平方分米

（　　）平方分米 =500 平方厘米

1 平方米 =（　　）平方分米

200 平方厘米 =（　　）平方分米

（　　）平方米 =700 平方分米

（　　）平方分米 =8 平方米

（　　）平方厘米 =12 平方分米

（　　）平方分米 =50 平方米

14 平方分米 =（　　）平方厘米

◆ 求长方形和正方形的周长或面积。

长 =15 分米，宽 =3 分米，面积 =（　　）平方分米

长 =30 厘米，宽 =15 厘米，面积 =（　　）平方厘米

长 =24 厘米，宽 =3 厘米，周长 =（　　）厘米

长 =7 分米，宽 =5 分米，周长 =（　　）分米

边长 =8 米，面积 =（　　）平方米

边长 =10 厘米，面积 =（　　）平方厘米

边长 =5 米，面积 =（　　）平方米

边长 =4 厘米，周长 =（　　）厘米

边长 =6 厘米，面积 =（　　）平方厘米

边长 =15 分米，周长 =（　　）分米

边长 =9 分米，面积 =（　　）平方分米

边长 =20 厘米，面积 =（　　）平方厘米

长 =16 厘米，宽 =12 厘米，周长 =（　　）厘米

长 =6 米，宽 =4 米，面积 =（　　）平方米

长 =1 米，宽 =7 分米，面积 =（　　）平方分米

B组　变式口算题

1. 一个长方形游泳池，长 90 米、宽 45 米，要在池底铺边长为 3 分米的方砖，需要（　　）块。

2. 淘气家的客厅是边长为 16 米的正方形，如果要在客厅铺上面积为 4 平方分米的正方形地砖，要铺（　　）块。

3. 从一个长 10 分米、宽 7 分米的长方形上剪下一个最大的正方形，剪下正方形的面积是（　　）平方分米，剩下部分的面积是（　　）平方分米。



关注微信公众号“教辅资料站”获取更多学习资料

练习7 图形的运动

用时：____分____秒 错误：　个

A组 常规口算题

1 平方分米 =（　　）平方厘米
400 平方厘米 =（　　）平方分米
600 平方分米 =（　　）平方米
7 平方米 =（　　）平方分米
8 平方分米 =（　　）平方厘米
（　　）平方厘米 =9 平方分米
（　　）平方分米 =1100 平方厘米
40 平方分米 =（　　）平方厘米
15 平方分米 =（　　）平方厘米
100 平方分米 =（　　）平方米
（　　）平方分米 =37 平方米
（　　）平方米 =600 平方分米
21 平方米 =（　　）平方分米
（　　）平方分米 =9 平方米
（　　）平方厘米 =13 平方分米
34 平方米 =（　　）平方分米

◆ 求长方形和正方形的周长或面积。

长 =14 分米，宽 =12 分米，周长 =（　　）分米
长 =28 米，宽 =15 米，周长 =（　　）米
长 =16 厘米，宽 =10 厘米，面积 =（　　）平方厘米
长 =6 米，宽 =5 分米，面积 =（　　）平方分米
边长 =7 米，周长 =（　　）米
边长 =6 分米，面积 =（　　）平方分米
边长 =11 米，面积 =（　　）平方米
边长 =25 厘米，周长 =（　　）厘米
边长 =30 分米，面积 =（　　）平方分米
边长 =23 厘米，周长 =（　　）厘米
边长 =3 米，面积 =（　　）平方米
长 =1 米，宽 =7 分米，周长 =（　　）分米
长 =30 厘米，宽 =14 厘米，周长 =（　　）厘米
长 =5 分米，宽 =4 分米，面积 =（　　）平方分米
长 =24 厘米，宽 =20 厘米，面积 =（　　）平方厘米

B组 变式口算题

1. 人骑摩托车沿直线行驶时，摩托车车身的运动属于（　　），摩托车车轮的运动属于（　　）；电梯的上下运动属于（　　），推拉抽屉所做的运动属于（　　）。

2. 下面几个图形中，是轴对称图形的画出对称轴。



3. 画出 3 对应的图形。

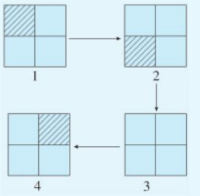

关注微信公众号“教辅资料站”获取更多学习资料

练习8　图形与位置

用时：____分____秒　错误：　个

A组　常规口算题

5 平方分米 =（　　）平方厘米

4 平方米 =（　　）平方分米

700 平方厘米 =（　　）平方分米

（　　）平方厘米 =3 平方分米

（　　）平方分米 =1400 平方厘米

23 平方米 =（　　）平方分米

2000 平方分米 =（　　）平方米

42 平方分米 =（　　）平方厘米

（　　）平方分米 =8 平方米

（　　）平方分米 =700 平方厘米

1200 平方分米 =（　　）平方米

30 平方分米 =（　　）平方厘米

600 平方厘米 =（　　）平方分米

77 平方米 =（　　）平方分米

（　　）平方米 =200 平方分米

25 平方米 =（　　）平方分米

◆ 求长方形和正方形的面积。

边长 =5 米，面积 =（　　）平方米

长 =10 米，宽 =7 米，面积 =（　　）平方米

长 =12 分米，宽 =1 米，面积 =（　　）平方分米

边长 =9 分米，面积 =（　　）平方分米

边长 =12 米，面积 =（　　）平方米

长 =5 米，宽 =45 分米，面积 =（　　）平方分米

长 =1 米，宽 =70 厘米，面积 =（　　）平方分米

边长 =4 厘米，面积 =（　　）平方厘米

长 =5 分米，宽 =3 分米，面积 =（　　）平方分米

长 =7 厘米，宽 =4 厘米，面积 =（　　）平方厘米

边长 =8 米，面积 =（　　）平方米

长 =10 米，宽 =8 米，面积 =（　　）平方米

长 =15 分米，宽 =9 分米，面积 =（　　）平方分米

边长 =10 米，面积 =（　　）平方米

长 =20 厘米，宽 =12 厘米，面积 =（　　）平方厘米

长 =30 分米，宽 =15 分米，面积 =（　　）平方分米

B组　变式口算题

我会辨方向。

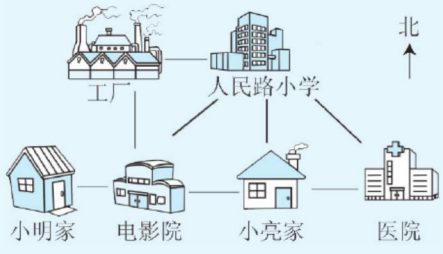

1. 电影院在工厂的（　　）方。
2. 人民路小学在电影院的（　　）方。
3. 小亮家的（　　）方是医院。
4. 电影院的（　　）方是小明家。
5. 医院在人民路小学的（　　）方。
6. 工厂在小亮家的（　　）方。

关注微信公众号“教辅资料站”获取更多学习资料

练习9 统 计

用时：____分____秒 错误：　个

A组 常规口算题

214 + 132 =
33 ÷ 3 =
42 × 20 =
7 × 50 =
60 × 50 =
145 ÷ 5 =
432 − 124 =
78 × 20 =
63 ÷ 3 =
216 ÷ 8 =
$\frac{5}{7}+\frac{1}{7}=$
61 × 30 =
241 + 305 =
84 ÷ 6 =
9 × 70 =
$\frac{8}{11}-\frac{3}{11}=$

21 × 40 =
156 + 212 =
42 ÷ 3 =
135 ÷ 5 =
6 × 70 =
369 − 214 =
26 × 40 =
244 ÷ 4 =
60 × 70 =
456 − 236 =
$\frac{7}{9}-\frac{2}{9}=$
52 × 40 =
78 ÷ 2 =
8 × 90 =
$\frac{11}{13}+\frac{2}{13}=$
62 × 40 =

19 × 10 =
38 ÷ 2 =
124 + 206 =
128 ÷ 4 =
$\frac{3}{5}+\frac{1}{5}=$
41 × 30 =
$\frac{5}{11}+\frac{2}{11}=$
436 − 306 =
69 ÷ 3 =
$\frac{7}{15}+\frac{2}{15}=$
378 − 256 =
189 ÷ 7 =
55 × 40 =
262 + 232 =
$\frac{9}{17}+\frac{3}{17}=$
224 ÷ 8 =

B组 变式口算题

下面是阳光小学三(5)班课程表的一部分。

星期	一	二	三	四	五
1	语文	数学	语文	语文	数学
2	数学	语文	数学	音乐	语文
3	体育	音乐	劳动	美术	写字
4	写字	美术	体育	体育	劳动

1. 用你喜欢的方法整理课程的节数。

语文：　　数学：
音乐：　　美术：
体育：　　劳动：
写字：

2. 把上面整理的结果填入下表。

课程	语文	数学	音乐	美术	体育	劳动	写字
节数（节）							

3. 一共有(　　)节课。

4. 数学课的节数占总节数的$\frac{(\quad)}{(\quad)}$。

关注微信公众号“教辅资料站”获取更多学习资料

口算能力期末综合测评（一）

用时：____分____秒　错误：　个

$23 \times 20 =$

$148 + 262 =$

$48 \div 3 =$

$5 \times 30 =$

$21 \times 40 =$

$40 \times 50 =$

$\frac{4}{5} - \frac{1}{5} =$

$123 \div 3 =$

$49 \div 7 =$

$346 - 206 =$

$\frac{4}{7} + \frac{2}{7} =$

$63 \div 3 =$

$25 \times 40 =$

$\frac{8}{11} - \frac{2}{11} =$

$146 \div 2 =$

$60 \times 26 =$

$80 \times 70 =$

$\frac{9}{13} + \frac{2}{13} =$

$456 - 406 =$

$8 \times 50 =$

$27 \times 50 =$

$576 - 236 =$

$246 \div 2 =$

$147 + 203 =$

$20 \times 30 =$

$\frac{2}{3} - \frac{1}{3} =$

$36 \div 3 =$

$225 \div 5 =$

$142 + 201 =$

$\frac{6}{7} - \frac{1}{7} =$

$68 \div 4 =$

$30 \times 40 =$

$24 \times 50 =$

$230 \div 2 =$

$350 \div 7 =$

$49 \times 30 =$

$120 + 237 =$

$\frac{5}{13} + \frac{4}{13} =$

$60 \times 40 =$

$7 \times 90 =$

$87 \div 3 =$

$427 - 307 =$

$\frac{7}{16} - \frac{3}{16} =$

$186 \div 6 =$

$55 \times 40 =$

$\frac{7}{19} + \frac{11}{19} =$

$33 \times 30 =$

$38 \div 2 =$

$156 + 144 =$

$\frac{3}{5} + \frac{1}{5} =$

$6 \times 40 =$

$347 - 102 =$

$105 \div 5 =$

$45 \div 3 =$

$\frac{5}{7} - \frac{2}{7} =$

$70 \times 8 =$

$64 \div 4 =$

$200 \div 8 =$

$25 \times 90 =$

$\frac{7}{13} + \frac{4}{13} =$

$60 \times 80 =$

$8 \times 80 =$

$\frac{11}{19} - \frac{2}{19} =$

$26 \times 40 =$

$276 \div 6 =$

$80 \times 9 =$

$459 - 237 =$

$56 \times 40 =$

$\frac{17}{21} - \frac{4}{21} =$

关注微信公众号“教辅资料站”获取更多学习资料

口算能力期末综合测评（二）

用时：____分____秒 错误：　个

4 千克 =（　　）克

7 平方米 =（　　）平方分米

2000 克 =（　　）千克

6 吨 =（　　）千克

7000 千克 =（　　）吨

7000 平方分米 =（　　）平方米

66 平方分米 =（　　）平方厘米

8 吨 =（　　）千克

9000 克 =（　　）千克

70 平方米 =（　　）平方分米

18 吨 =（　　）千克

50 平方分米 =（　　）平方厘米

21 平方米 =（　　）平方分米

10000 克 =（　　）千克

41 平方分米 =（　　）平方厘米

6000 平方厘米 =（　　）平方分米

8000 平方分米 =（　　）平方米

55 平方米 =（　　）平方分米

9 吨 =（　　）千克

7000 平方厘米 =（　　）平方分米

9000 平方分米 =（　　）平方米

8 千克 =（　　）克

44 平方米 =（　　）平方分米

◆ **求长方形和正方形相应的值。**

长 =7 米，宽 =4 米，面积 =（　　）平方米

边长 =5 分米，面积 =（　　）平方分米

长 =8 厘米，宽 =7 厘米，面积 =（　　）平方厘米

长 =12 米，宽 =4 米，周长 =（　　）米

边长 =10 分米，面积 =（　　）平方分米

长 =14 厘米，宽 =6 厘米，面积 =（　　）平方厘米

长 =15 厘米，宽 =9 厘米，周长 =（　　）厘米

面积 =120 平方米，长 =12 米，宽 =（　　）米

边长 =8 厘米，周长 =（　　）厘米

面积 =108 平方分米，宽 =6 分米，长 =（　　）分米

长 =16 米，宽 =8 米，面积 =（　　）平方米

长 =20 厘米，宽 =13 厘米，周长 =（　　）厘米

边长 =9 分米，面积 =（　　）平方分米

长 =30 米，宽 =15 米，面积 =（　　）平方米

长 =40 分米，宽 =15 分米，面积 =（　　）平方分米

边长 =20 米，面积 =（　　）平方米

边长 =30 厘米，周长 =（　　）厘米

面积 =360 平方分米，宽 =6 分米，长 =（　　）分米

长 =17 米，宽 =10 米，面积 =（　　）平方米

长 =28 分米，宽 =20 分米，周长 =（　　）分米

面积 =324 平方厘米，宽 =9 厘米，长 =（　　）厘米

长 =50 米，宽 =15 米，面积 =（　　）平方米

关注微信公众号“教辅资料站”获取更多学习资料

参考答案

第一单元

练习1（第1页）

A组

10	126	10
31	20	75
20	11	10
270	10	10
11	11	23
11	22	12
13	14	12
22	42	12
31	99	33
11	11	21
20	54	51
11	13	11
33	10	43
48	32	24
21	93	10
23	32	34

B组

1. 31　31　20……1
　11……2
2. 32　8

练习2（第2页）

A组

15	13	31
68	14	13
16	72	9
17	14	13
30	36	12
30	29	23
14	22	12
15	69	11
15	19	24
18	40	23
42	37	11
15	19	18
10	17	16
13	132	21
24	23	4
17	16	12

B组

1. 26　17　16　16
2. 14

练习3（第3页）

A组

10	47	12
48	42	29
31	17	41
25	884	22
12	32	33
21	14	11
336	20	45
11	19	13
34	19	18
28	15	23
16	13	75
27	64	9
24	11	35
370	19	26
12	18	38
14	13	54

B组

1. 115　227　161　148
2. 212

练习4（第4页）

A组

10	13	132
20	30	11
11	11	14
22	40	111
12	144	10
16	23	11
66	54	14
492	33	6
43	27	10
14	24	18
11	10	12
44	21	225
16	72	22
24	32	28
14	39	14
110	31	23

B组

1. 138
2. （1）156　（2）164
　（3）1116

练习5（第5页）

A组

401	209	30
103	81	204
26	105	104
201	109	106
108	101	109
201	17	106
309	32	203
208	0	107
17	13	107
203	71	0
0	204	409
103	104	307
19	408	307
106	41	27
80	208	18
123	111	60

B组

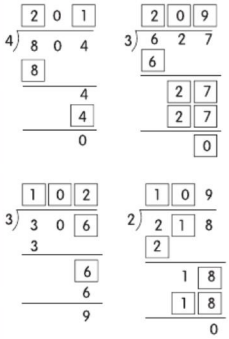

练习6（第6页）

A组

90	200	230
100	160	240
50	12	220
14	41	250
130	211	340
120	130	71
60	410	490
150	47	140
130	19	50
18	140	70
13	310	130
210	110	170
41	120	290
150	61	90
190	212	25
42	210	42

B组

1. （1）80　210　（2）130
2. 40　41
3. 45

练习7（第7页）

A组

204	40……7	131
122	105	140
201	411	105
30	104	208
105	50……5	103
170	190……1	430
106	201	209
310……2	270	50……3
206	103	107
75	90……5	151
102	104	104
130……2	150	131
304	101	101
140	60……4	120
310	180	104
127	812	105

B组

1. 2　1
2. 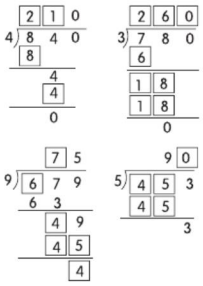

练习8（第8页）

A组

203	151	113
109	104	21
200	107	11
30	212	90
120	190	14
91	103	132
150	171	14
70	230	300
108	100	100
60	109	214
102	240	19
209	109	50
220	70	18
103	207	111
123	120	21
107	320	90

请沿此虚线裁剪下使用

关注微信公众号“教辅资料站”获取更多学习资料

B 组

1. $7\overline{)735}$ $8\overline{)250}$

$$\begin{array}{r} 105 \\ 7\overline{)735} \\ 7 \\ \hline 35 \\ 35 \\ \hline 0 \end{array} \qquad \begin{array}{r} 31 \\ 8\overline{)250} \\ 24 \\ \hline 10 \\ 8 \\ \hline 2 \end{array}$$

2. (1) × (2) ×

3. 108

练习 9（第 9 页）

A 组

210	140	>
130	109	>
221	105	<
102	490	<
402	250	<
303	20	>
80	104	<
105	309	<
106	102	>
107	209	>
151	307	<
160	220	>
180	104	
206	212	
212	130	
160	170	

B 组

1. 70 2. 201

3. 108 4. 42

练习 10（第 10 页）

A 组

18	14	21
56	320	62
49	14	93
81	190	29
13	102	41
56	203	37
42	60	21
44	15	51
664	60	91
37	14	21
52	108	71
83	207	46
49	11	91
18	107	67
70	120	45
456	50	51

B 组

1. (1) × (2) ×

2. 5 4 3. 24

练习 11（第 11 页）

A 组

36	57	42
92	67	98
47	69	71
86	87	92
17	59	73
490	79	31
89	105	71
64	91	82
73	121	91
16	29	65
33	97	74
71	39	85
43	27	35
34	65	46
20	156	12
50	92	16

B 组

1. 26 2. 25 26 3. 24

练习 12（第 12 页）

A 组

50	140	70
121	32	44
80	201	23
104	105	204
120	190	134
80	410	90
91	13	105
208	24	103
14	1000	110
13	96	102
301	106	206
420	309	111
486	140	90
300	84	107
100	416	104
200	80	445

B 组

1. 4 80 2. 21 3. 720

4. 60

练习 13（第 13 页）

A 组

9	150	130
70	25	104
103	123	105
83	61	72
70	105	60
90	211	47
129	22	17
71	98	213
104	28	31
320	166	213
82	19	91
103	50	51
120	11	90
124	115	168
69	144	729
144	640	618

B 组

1. 紫 绿 2. 10 3. 170

第一单元 口算能力测试（第 14 页）

A 组

20	660	140
0	3600	44
84	11	13
68	109	104
4200	203	403
500	270	76
12	50	201
107	30……3	90
105	15	106
12	105	12
106	206	105
103	50	202
11	101	16
22	20	240
190	1	5
80	110	640

B 组

1. √ 2. × 3. × 4. ×

5. √ 6. × 7. √

第二单元 练习 1（第 15 页）

A 组

14	5	13
14……3	23	155
31	12	15
17……1	28	15
111	528	117
101	111	116
18……2	102	411
123	118	202
301	26	113
417	117	12
113	109	156
32……1	203	12
108	126	14
307	304	12
104	101	215
419	303	107

B 组

( )	( )
(√)	( )
(√)	(√)
( )	(√)

练习 2（第 16 页）

A 组

46	355	14
11	21	26
138	21	17
14……2	204	15
112	114	18
12	113	112
102	19	33
103	124	117
114	105	202
13	22	302
206	401	104
103	409	414
102	105	418
205	108	101
308	285	12
104	109	103

B 组

( ) (√) ( )

练习 3（第 17 页）

A 组

360	14	11
101	228	12
86	110	18
141	126	119
13	15……2	113
113	106	34
115	118	340
23	119	413
280	174	201
103	126	117
106	104	105
106	303	226
103	203	581
419	13	204
106	402	107
108	108	109
12	206	11……4
104	109	217

B 组

略。

练习 4（第 18 页）

A 组

30	20	406

请沿此虚线裁剪下使用

关注微信公众号“教辅资料站”获取更多学习资料

22	19	31
285	212	102
129	438	344
118	27	10
127	121	165
114	291	119
110	390	121
117	414	104
214	301	202
101	105	138
301	117	202
305	12	106
24	101	207
421	107	215
216	26	12

B 组

左 6 上 6
上 6 左 6

第二单元 口算能力测试（第 19 页）

A 组

265	111	102
82	25	216
132	370	290
116	16……1	560
211	115	110
17	24	122
116	395	201
416	220	114
203	128	444
324	121	122
101	119	302
108	102	101
108	301	118
201	33	103
104	113	230
422	407	282

B 组

1. 右 2 下 4
   下 4 右 2
2. 上 3 左 3
   左 3 上 3

第三单元

练习 1（第 20 页）

A 组

13	50	363
75	186	93
555	336	424
448	40	2500
150	792	200

6600	565	124
8200	500	9900
90	4500	2000
848	42	636
8400	357	990
600	939	300
56	605	372
1640	2700	1650
48	16400	136
996	360	37200
15500	91	1200

B 组

1. 540
2. 200 400 600 800

练习 2（第 21 页）

A 组

12	80	560
52	786	250
366	2100	6400
12300	45	1500
300	840	175
90	680	204
198	20800	60
6400	364	6000
128	13	10500
85	350	3500
570	192	320
1290	369	1010
9600	12900	1880
24000	120	8400
101	132	5040
27900	10500	25500

B 组

1. 165 100 10 50 5
   462 400 20 40 2
2. 288
3. 492 861

练习 3（第 22 页）

A 组

9	250	29
280	600	1080
480	440	636
700	720	980
840	72	540
484	560	1680
640	1540	60
840	660	480
1260	800	640
750	1320	1120
125	650	696

720	37	560
1560	1100	1440
7740	96	7380
1040	680	1200
1470	780	245

B 组

861 572 483 168

练习 4（第 23 页）

A 组

81	24	50
99	244	320
300	1000	450
520	1040	780
600	570	1060
393	910	690
1320	91	760
900	1160	1200
360	420	960
750	96	164
1050	576	1250
700	2500	740
1150	1380	950
1500	1140	1750
760	810	720
780	1300	378

B 组

1. 544 2044 1302 2597
2. 三 四
3. 三 四

练习 5（第 24 页）

A 组

75	375	105
11	26	840
440	720	1800
800	60	488
300	1120	280
3200	72	960
1020	81	960
1470	540	680
4160	1260	960
1640	840	630
939	1250	1440
460	1680	1610
1050	3000	166
920	260	1920
1920	680	2450
2460	870	2040

B 组

1. ×
$$\begin{array}{r} 45 \\ \times\ 36 \\ \hline 270 \\ 135 \\ \hline 1620 \end{array}$$
$$\times\ \begin{array}{r} 52 \\ \times\ 38 \\ \hline 416 \\ 156 \\ \hline 1976 \end{array}$$
2. 1680

练习 6（第 25 页）

A 组

70	266	93
330	390	46
91	600	1840
510	880	1320
1150	1860	204
360	640	570
639	1040	850
640	690	910
1380	98	880
800	840	1080
1000	1680	576
726	1500	840
750	1477	1450
1650	900	1280
1800	1080	1200
1540	92	1280

B 组

1. C 2. B 3. B 4. 1080

第三单元 口算能力测试（第 26 页）

A 组

48	242	84
480	220	39
16	19	933
340	760	91
650	960	75
560	105	1120
432	83	605
242	630	88
480	85	1170
132	960	4950
1050	1760	63
990	1230	1260
920	3000	1750
950	255	129
138	1350	1920
1266	1160	2310

B 组

1. 400 792 1184 2912
2. 2100

整理与复习

练习 1（第 27 页）

A 组

12 111 75

请沿此虚线裁剪下使用

关注微信公众号“教辅资料站”获取更多学习资料

101 102 10
24 104 99
23 13 160
121 12 105
104 202 48
420 210 90
108 82 450
24 18 50
109 111 130
102 120 250
101 24 61
107 109 64
12 110 10
32 13 490
105 15 220

B 组

1. 96 2. 50 3. 32

练习 2（第 28 页）

A 组

13 13 111
51 120 103
160 460 25
840 12……1 110
3000 600 125
510 121 202
4600 1000 920
26 106 11……4
210 10800 106
1280 22 750
103 202 130
321 230 16800
990 1100 216
113 6900 106
228 13 43
5600 1400 1470

B 组

略。

练习 3（第 29 页）

A 组

12 27 214
220 202 106
260 850 640
690 480 1380
950 108 110
8400 380 17
16 412 110
108 220 109
760 540 500
580 42 14
112 404 150
220 960 112
1650 740 720
500 14 1320
11……3 107 23
16000 6000 440

B 组

1. 480 2720
2. 576 3. 96 4. 192

第四单元

练习 1（第 30 页）

A 组

12 30 290
40 11 16
240 360 3680
1100 100 101
4400 1000 1880
36 17 1680
84 31 870
840 3200 108
61 2000 222
31 1500 378
660 15 780
23 80 1680
27 570 1290
6000 111 4550
700 53 990
37 810 2560
33 129 1240
5600 460 164

B 组

1. 克 千克 千克 千克
2. 1000 2 3000 5 8000 9

练习 2（第 31 页）

A 组

222 24 1000
40 111 2000
190 360 3
280 600 5000
20 20 6
205 480 6000
21 101 7000
550 720 7
2200 32 8
123 178 3
480 930 4000
600 980 4000
41 133 9
61 372 9000
22 1200 8000
111 11 5000

B 组

1. 千克 克 吨 吨
2. 144
3. 4

第四单元 口算能力测试（第 32 页）

A 组

11 170 1000
41 14 2
220 51 4
1200 1400 5
6 19 2
52 240 3
180 2300 6000
2600 37 8
24 1000 9
30 50 3000
380 4400 4
3300 11 8000
6 750 5
21 23 9000
630 4200 7
2600 39 7000
420 920 6

B 组

1. > > < =
2. 90 3. 能

第五单元

练习 1（第 33 页）

A 组

15 2200 12
52 280 273
330 13 1900
480 60 20
11 21 7
25 2800 550
260 450 3600
1100 70 17
11 12 26
20 3000 750
42 320 800
2400 83 80
9 13 29
30 3900 23
600 510 680
4800 108 5400

B 组

1. 封面 国旗表面的大小
2. 9 5 10

练习 2（第 34 页）

A 组

120 25 平方分米
22 500 平方米
5 8 平方厘米
1600 8 平方分米
340 37 平方米
40 1800 米
12 1640 厘米
3300 50 分米
152 11 平方厘米
19 1240 平方厘米
3200 31 米
25 4200 米 米
650 700 毫米
7200 39 平方分米
94 98 平方米
580 960 分米

B 组

4 8
4 10
4 10

练习 3（第 35 页）

A 组

6 1
14 4
60 16
4 36
10 49
18 81
18 100
28 121
64
60
400
80
120
160
200
240

B 组

周长：24 24 24 24
面积：35 32 20 36

练习 4（第 36 页）

A 组

60 49
120 100
150 96
240 44
26 36
240 64
126 400
96 84
144

请沿此虚线裁剪下使用

关注微信公众号“教辅资料站”获取更多学习资料

120
68
1600
200
25
24
169

B 组

1. 16　16
2. 81
3. 22500
4. 520　92

练习 5（第 37 页）

A 组

200	100
1	2
800	300
400	1000
4	30
500	6000
6	1100
7	12
9000	8000
14	9
1500	1400
8	13
10	1800
1700	1900
20	40
30	50

B 组

1. 平方米
2. 平方厘米
3. 平方米
4. 平方米
5. 平方分米
6. 平方厘米

练习 6（第 38 页）

A 组

330	260	35
1200	1500	80
11	12	49
20	53	84
420	460	96
2400	5200	64
14	17	150
51	27	200
310	660	
5000	3300	
13	21	

420	480
3900	5200
23	11
63	73
850	900
6500	9600

B 组

30 分米	50 平方分米
2 厘米	16 平方厘米
13 米	36 米
64 米	256 平方米
10 厘米	100 平方厘米
8 分米	32 分米

练习 7（第 39 页）

A 组

46	190 39
180	93 250
630	480 290
21	14 86
36	34 22
280	480 28
29	770 940
57	33 177
123	42 37
400	172 16
640	19 2000
31	89 24
25	1000 126
510	630 720
12	156 1300
28	48 35

B 组

1. (1)16　200　(2)16　16
2. 20000　3. 1600　16

第五单元 口算能力测试（第 40 页）

A 组

35	100
36	1
25	300
23	400
9	500
81	4
40	2
120	1000
140	600
64	5
36	6
230	800
90	900
400	7
16	9
	2000

B 组

1. ×　2. √　3. ×
4. ×　5. ×　6. ×

数学好玩

练习 1（第 41 页）

A 组

11	14	190
20	300	18
280	22	54
1100	19	4400
9	2300	27
34	570	340
450	21	4500
2400	23	31
12	2600	21
53	11	700
480	510	4800
2100	31	77
29	7200	15
25	42	43
540	720	20000
6400	5000	960

B 组

略。

练习 2（第 42 页）

A 组

61	420	52
10	40	2400
360	3600	9
2300	6	520
36	460	98
13	41	4200
700	8400	37
4300	19	1050
35	1200	67
12	59	9600
960	9900	44
10400	21	960
94	900	43
49	2000	6000
750	45	23
12300	50	840

B 组

7	2	50	208
5	5	50	220
3	8	50	232
1	11	50	244

通过对比发现，租 7 只大船和 2 只小船最合算，用 208 元。（方案不唯一）

练习 3（第 43 页）

A 组

26	480	2100
840	2600	560
1800	23	33
39	28	57
83	1000	4200
690	2900	810
4600	29	63
22	48	16
120	4800	8400
29	780	1280
1420	31	9
8600	72	54
38	9600	17
111	1080	780
1640	48	16500
10600	101	46

B 组

红　蓝　白

巩固应用（一）（第 44 页）

A 组

440	22	16
15	1700	750
1600	51	2300
41	69	28
1050	19	27
26	4400	700
4800	45	5800
20	1440	39
1280	17	23
21	6800	1320
9300	58	7200
102	760	94
1230	14	37
26	9900	1040
14000	108	12300
62	920	54

B 组

1. 3600　935　23

请沿此虚线裁剪下使用

关注微信公众号“教辅资料站”获取更多学习资料

2. 746 ÷ 6 = 124……2

$$\begin{array}{r} 124 \\ 6\overline{)746} \\ 6 \\ \hline 14 \\ 12 \\ \hline 26 \\ 24 \\ \hline 2 \end{array}$$

68 × 34 = 2312

$$\begin{array}{r} 68 \\ \times 34 \\ \hline 272 \\ 204 \\ \hline 2312 \end{array}$$

巩固应用（二）

（第 45 页）

A 组

16	13	200
240	350	240
69	810	63
640	600	13
1200	36	2000
11	12	360
330	680	12
42	31	2500
1720	540	83
13	1380	2120
360	19	390
106	3500	50
104	344	12
14	67	3200
2480	1140	36
81	720	446

B 组

1. 288　2. 能　3. 220　4. 30

第六单元

练习 1（第 46 页）

A 组

23	480	630
320	13	7
690	400	2050
25	45	28
220	3000	480
14	25	22
2000	29	212
26	320	67
17	1320	3600
450	22	380
1230	123	25
11	560	630
7200	37	1890
45	65	6400
1860	1640	225
46	8100	157

B 组

略。

练习 2（第 47 页）

A 组

270	12	1000
7	460	11
32	46	900
600	360	420
200	1600	13
269	259	19
15	22	21
39	39	1400
280	1700	15
3000	21	540
16	400	615
47	4900	5600
33	14	28
110	281	3660
2440	1640	46
351	6480	412

B 组

略。

练习 3（第 48 页）

A 组

260	220	>
11	19	<
150	26	>
31	690	>
420	1200	>
2000	276	>
339	25	>
24	16	<
21	780	>
920	2500	>
33	16	>
1530	640	<
3600	5600	
630	23	
35	1480	
224	124	

B 组

$\frac{1}{6} < \frac{1}{3}$　　$\frac{1}{4} > \frac{1}{8}$

$\frac{1}{2} > \frac{1}{4}$

练习 4（第 49 页）

A 组

$\frac{1}{3}$	1	0	1
1	$\frac{3}{6}$	$\frac{3}{5}$	$\frac{4}{6}$
$\frac{4}{5}$	$\frac{4}{7}$	$\frac{2}{8}$	$\frac{2}{7}$
0	$\frac{4}{8}$	1	$\frac{4}{5}$
$\frac{1}{7}$	1	1	$\frac{4}{9}$
$\frac{5}{9}$	$\frac{3}{9}$	$\frac{4}{8}$	$\frac{6}{7}$
$\frac{2}{10}$	$\frac{1}{9}$	$\frac{4}{9}$	$\frac{5}{8}$
$\frac{6}{10}$	$\frac{4}{10}$	$\frac{6}{10}$	$\frac{4}{11}$
$\frac{3}{11}$	$\frac{3}{11}$	$\frac{6}{12}$	0
1	$\frac{2}{11}$	$\frac{6}{13}$	$\frac{4}{12}$
$\frac{2}{12}$	$\frac{7}{13}$	$\frac{10}{12}$	$\frac{2}{13}$
$\frac{9}{13}$	$\frac{10}{12}$	$\frac{8}{11}$	$\frac{9}{14}$

B 组

$\frac{2}{4}$　$\frac{7}{8}$　$\frac{5}{6}$（涂色略）

练习 5（第 50 页）

A 组

<	<	0	1
<	>	$\frac{2}{5}$	$\frac{2}{4}$
>	>	$\frac{3}{6}$	$\frac{2}{5}$
>	<	$\frac{5}{7}$	$\frac{5}{6}$
>	<	$\frac{4}{7}$	$\frac{5}{7}$
>	>	1	1
<	<	$\frac{5}{9}$	$\frac{3}{9}$
<	>	$\frac{6}{9}$	$\frac{3}{10}$
<	<	$\frac{3}{10}$	$\frac{5}{11}$
>	<	$\frac{6}{11}$	$\frac{6}{11}$
>	<	1	$\frac{2}{13}$
	>	$\frac{6}{13}$	$\frac{9}{12}$

B 组

1. $\frac{7}{10}$　2. $\frac{5}{8}$

3. $\frac{5}{9}$　$\frac{4}{9}$　4. $\frac{2}{7}$

练习 6（第 51 页）

A 组

1	$\frac{4}{5}$	0	$\frac{2}{3}$
$\frac{3}{5}$	$\frac{2}{4}$	$\frac{1}{3}$	$\frac{3}{5}$
$\frac{3}{6}$	$\frac{4}{6}$	0	$\frac{2}{6}$
$\frac{6}{7}$	1	$\frac{2}{5}$	$\frac{5}{7}$
$\frac{7}{8}$	$\frac{7}{9}$	$\frac{2}{6}$	$\frac{4}{8}$
$\frac{5}{9}$	1	1	$\frac{3}{9}$
$\frac{6}{8}$	1	$\frac{5}{8}$	$\frac{8}{11}$
1	0	$\frac{1}{9}$	$\frac{11}{12}$
$\frac{9}{10}$	$\frac{8}{12}$	$\frac{4}{10}$	$\frac{3}{13}$
$\frac{2}{11}$	$\frac{9}{13}$	1	$\frac{6}{14}$
$\frac{3}{12}$	$\frac{8}{14}$	$\frac{5}{13}$	$\frac{10}{15}$
1	$\frac{3}{15}$	$\frac{2}{16}$	$\frac{11}{16}$

B 组

1. $\frac{2}{9}$　$\frac{3}{9}$

2. $\frac{7}{9}$　$\frac{3}{9}$　$\frac{2}{9}$

3. $\frac{4}{8}$　4. $\frac{5}{8}$　$\frac{3}{8}$

第六单元 口算能力测试

（第 52 页）

A 组

=	1	$\frac{1}{5}$	1
>	$\frac{3}{4}$	0	1
>	$\frac{4}{5}$	$\frac{5}{6}$	1
>	$\frac{5}{6}$	$\frac{6}{7}$	$\frac{4}{7}$
=	$\frac{5}{7}$	$\frac{4}{8}$	$\frac{3}{8}$
>	$\frac{6}{8}$	$\frac{3}{9}$	$\frac{4}{9}$
<	1	$\frac{8}{10}$	$\frac{7}{10}$
>	1	$\frac{3}{11}$	$\frac{5}{11}$
<	$\frac{10}{11}$	$\frac{1}{12}$	$\frac{4}{12}$
>	$\frac{10}{12}$	$\frac{6}{13}$	$\frac{9}{13}$
<	0	$\frac{4}{14}$	$\frac{7}{15}$
	$\frac{2}{14}$	$\frac{10}{16}$	$\frac{6}{16}$

B 组

1. 1　$\frac{1}{5}$　$\frac{6}{8}$

请沿此虚线裁剪下使用

关注微信公众号“教辅资料站”获取更多学习资料

$\frac{3}{11}$ $\frac{3}{13}$ $\frac{4}{6}$

$\frac{7}{15}$ $\frac{2}{7}$ $\frac{9}{21}$

2. $\frac{2}{7}$ $\frac{3}{7}$ $\frac{2}{7}$

第七单元

练习1（第53页）

A组

$\frac{9}{10}$	$\frac{7}{10}$	$\frac{4}{10}$	0
1	$\frac{2}{5}$	$\frac{1}{8}$	$\frac{3}{5}$
$\frac{4}{9}$	$\frac{7}{9}$	1	$\frac{4}{6}$
$\frac{5}{7}$	$\frac{3}{7}$	$\frac{1}{7}$	$\frac{7}{8}$
$\frac{7}{10}$	1	1	$\frac{4}{7}$
1	$\frac{6}{8}$	$\frac{3}{5}$	$\frac{8}{9}$
$\frac{2}{3}$	$\frac{8}{10}$	$\frac{3}{8}$	$\frac{8}{10}$
1	1	$\frac{5}{10}$	$\frac{9}{11}$
$\frac{9}{10}$	$\frac{8}{10}$	$\frac{2}{9}$	$\frac{6}{12}$
$\frac{5}{8}$	1	$\frac{2}{8}$	$\frac{6}{14}$
1	$\frac{5}{6}$	$\frac{6}{8}$	$\frac{6}{15}$
1	$\frac{9}{10}$	$\frac{2}{4}$	$\frac{7}{17}$

B组

1. 略。

2. 2　2　2　3

练习2（第54页）

A组

$\frac{1}{4}$	$\frac{4}{10}$	$\frac{2}{8}$	$\frac{7}{8}$
$\frac{1}{5}$	$\frac{1}{9}$	$\frac{1}{7}$	$\frac{4}{7}$
$\frac{4}{7}$	$\frac{3}{8}$	$\frac{6}{10}$	$\frac{1}{7}$
$\frac{4}{5}$	$\frac{1}{5}$	$\frac{1}{3}$	$\frac{5}{9}$
$\frac{6}{10}$	$\frac{4}{9}$	$\frac{2}{8}$	$\frac{2}{8}$
1	$\frac{3}{6}$	$\frac{2}{10}$	$\frac{3}{4}$
$\frac{7}{9}$	$\frac{4}{8}$	$\frac{3}{10}$	1
$\frac{3}{6}$	$\frac{5}{10}$	$\frac{2}{7}$	$\frac{2}{10}$
$\frac{1}{9}$	$\frac{1}{10}$	$\frac{4}{10}$	$\frac{3}{10}$
$\frac{6}{10}$	$\frac{5}{7}$	$\frac{3}{6}$	$\frac{5}{10}$
$\frac{1}{8}$	$\frac{1}{6}$	$\frac{5}{9}$	$\frac{7}{10}$
$\frac{1}{7}$	$\frac{1}{7}$	$\frac{2}{4}$	$\frac{5}{10}$

B组

1. 打乒乓球　踢毽子　6

2. 44

第七单元 口算能力测试（第55页）

A组

$\frac{2}{9}$	$\frac{1}{9}$	$\frac{4}{6}$	$\frac{5}{6}$
$\frac{1}{9}$	$\frac{7}{10}$	$\frac{2}{5}$	$\frac{6}{9}$
$\frac{4}{8}$	$\frac{3}{9}$	$\frac{5}{8}$	$\frac{2}{9}$
$\frac{2}{3}$	$\frac{1}{8}$	1	$\frac{8}{10}$
1	$\frac{3}{10}$	$\frac{3}{9}$	$\frac{5}{9}$
$\frac{3}{10}$	$\frac{4}{9}$	1	$\frac{5}{6}$
$\frac{5}{10}$	$\frac{2}{9}$	$\frac{2}{7}$	$\frac{7}{10}$
1	$\frac{1}{8}$	$\frac{3}{5}$	$\frac{4}{6}$
$\frac{6}{9}$	$\frac{4}{8}$	$\frac{3}{7}$	$\frac{1}{9}$
$\frac{4}{9}$	$\frac{3}{5}$	$\frac{4}{7}$	1
$\frac{6}{7}$	$\frac{5}{7}$	$\frac{6}{7}$	$\frac{2}{10}$
1	$\frac{5}{10}$	$\frac{2}{8}$	$\frac{7}{9}$

B组

1. $\frac{1}{8}$　$\frac{5}{8}$

2. $\frac{1}{5}$　2　$\frac{4}{5}$　8

3. 6　$\frac{5}{6}$　15

总复习

练习1（第56页）

A组

70	12	>	$\frac{7}{9}$
190	61	>	$\frac{5}{7}$
15	360	<	$\frac{1}{7}$
1300	2200	>	1
51	30	>	$\frac{3}{4}$
280	48	>	$\frac{3}{10}$
19	13	>	$\frac{1}{10}$
4200	333	>	$\frac{6}{9}$
53	71	>	$\frac{4}{6}$
480	420	<	$\frac{5}{10}$
29	17	=	$\frac{4}{10}$
5300	3000	<	$\frac{8}{10}$

4600　30

640　424

44　12

7500　450

B组

1. 8　4　6　4

2. 九分之七　7　7

3. (1)1700　1400　1100

(2)$\frac{5}{9}$　$\frac{6}{9}$　$\frac{7}{9}$

(3)2.1　3.4　5.5

练习2（第57页）

A组

550	16	$\frac{1}{4}$	>
13	600	$\frac{8}{9}$	<
1900	3900	$\frac{3}{6}$	=
22	11	$\frac{2}{9}$	>
420	262	$\frac{4}{10}$	>
45	34	$\frac{2}{6}$	>
37	208	$\frac{2}{8}$	<
633	50	$\frac{2}{4}$	>
61	450	$\frac{1}{5}$	>
96	448	$\frac{6}{7}$	<
83	133	$\frac{6}{8}$	<
11	1820	$\frac{2}{6}$	

2800　4800

25　61

540　5800

17　5400

B组

1. 115　1288　84　2052

2. $\frac{2}{10}$　$\frac{5}{10}$

练习3（第58页）

A组

360	$\frac{2}{7}$	280
750	$\frac{6}{10}$	990
21	$\frac{2}{3}$	840
49	1	140
900	$\frac{5}{9}$	210
200	$\frac{5}{9}$	45
250	$\frac{7}{10}$	560
23	1	160
30	$\frac{6}{7}$	520
2000	$\frac{2}{9}$	1800
580	1	241
41	$\frac{7}{10}$	180
52		100
1300		220
11		240
43		92

B组

1. B

2. C

3. 128

练习4（第59页）

A组

3000	10
60	5000
2	5
15	30
12	5
8	12
10	30
120	300
24	3
20	4
10000	5
5000	6
47	5　2
7900	8800
15	2
4　2	390

B组

1. 分米　2. 克　3. 分　4. 吨

5. 元　6. 米　7. 小时

8. 千克　9. 米　10. 平方米

请沿此虚线裁剪下使用

关注微信公众号“教辅资料站”获取更多学习资料

练习5（第60页）

A组

425	8	325
7	300	18
$\frac{2}{10}$	360	$\frac{2}{4}$
560	1470	131
1440	78	200
150	1	34
12	21	$\frac{4}{7}$
36	280	980
1	3600	479
15	56	4900
107	2000	9
780	$\frac{5}{14}$	$\frac{5}{9}$
720	242	246
5600	860	1470
28	111	72
$\frac{5}{11}$	$\frac{9}{15}$	240

B组

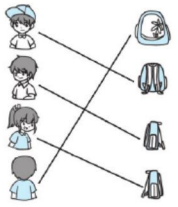

练习6（第61页）

A组

300	45
600	450
5	54
400	24
3	64
2	100
3000	25
700	16
5	36
100	60
2	81
7	400
800	56
1200	24
5000	70
1400	

B组

1. 45000　2. 6400
3. 49　21

练习7（第62页）

A组

100	52
4	86
6	160
700	300
800	28
900	36
11	121
4000	100
1500	900
1	92
3700	9
6	34
2100	88
900	20
1300	480
3400	

B组

1. 平移　旋转　平移　平移
2. 略。
3. 

练习8（第63页）

A组

500	25
400	70
7	120
300	81
14	144
2300	2250
20	70
4200	16
800	15
7	28
12	64
3000	80
6	135
7700	100
2	240
2500	450

B组

1. 南　2. 东北　3. 东　4. 西
5. 东南　6. 西北

练习9（第64页）

A组

346	840	190
11	368	19
840	14	330
350	27	32
3000	420	$\frac{4}{5}$
29	155	1230
308	1040	$\frac{7}{11}$
1560	61	130
21	4200	23
27	220	$\frac{9}{15}$
$\frac{6}{7}$	$\frac{5}{9}$	122
1830	2080	27
546	39	2200
14	720	494
630	1	$\frac{12}{17}$
$\frac{5}{11}$	2480	28

B组

1. 语文：正　数学：正
音乐：下　美术：下
体育：下　劳动：下
写字：下
2. 5　4　2　2　3　2　2
3. 20
4. $\frac{4}{20}$

口算能力期末综合测评（一）

（第65页）

460	350	990
410	600	19
16	$\frac{1}{3}$	300
150	12	$\frac{4}{5}$
840	45	240
2000	343	245
$\frac{3}{5}$	$\frac{5}{7}$	21
41	17	15
7	1200	$\frac{3}{7}$
140	1200	560
$\frac{6}{7}$	115	16
21	50	25
1000	1470	2250
$\frac{6}{11}$	357	$\frac{11}{13}$
73	$\frac{9}{13}$	4800
1560	2400	640
5600	630	$\frac{9}{19}$
$\frac{11}{13}$	29	1040
50	120	46
400	$\frac{4}{16}$	720
1350	31	222
340	2200	2240
123	$\frac{18}{19}$	$\frac{13}{21}$

口算能力期末综合测评（二）

（第66页）

4000	28
700	25
2	56
6000	32
7	100
70	84
6600	48
8000	10
9	32
7000	18
18000	128
5000	66
2100	81
10	450
4100	600
60	400
80	120
5500	60
9000	170
70	96
90	36
8000	750
4400	

请沿此虚线裁剪下使用

关注微信公众号“教辅资料站”获取更多学习资料



口算脑算用心算

巧算速算不难算

荣德基官方网站:
http://www.rudder.com.cn

荣德基天猫旗舰店:
http://rongdeji.tmall.com

荣德基小学频道
获取最新教育资讯

荣德基教育APP
让教和学变得简单

ISBN 978-7-5336-8990-2
9 787533 689902
定价:21.90元

荣德基 星级口算天天练 三年级数学 下 BS版

关注微信公众号“教辅资料站”获取更多学习资料