荣德基小学系列

教辅资料站

电子教辅　试卷练习
知识总结　备课资源

扫码关注获取更多学习资料

星级口算天天练

三年级 数学 下

主 编：荣德基　本册主编：李晓静

荣德基星级口算天天练



学 校：

班 级：

姓 名：

喜欢的格言：

时代出版传媒股份有限公司
安 徽 教 育 出 版 社

CONTENTS

目录

SJ

第一单元　两位数乘两位数

练习1　两位数乘整十数的口算 …… 1
练习2　两位数乘两位数的笔算（一） …… 2
练习3　两位数乘两位数的笔算（二） …… 3
练习4　习题课 …… 4
练习5　乘数末尾有0的乘法 …… 5
练习6　解决问题 …… 6
练习7　习题课 …… 7
练习8　复　习 …… 8
练习9　有趣的乘法 …… 9
第一单元口算能力测试 …… 10

第二单元　千米和吨

练习1　千米的认识 …… 11
练习2　吨的认识 …… 12
练习3　习题课 …… 13
第二单元口算能力测试 …… 14

第三单元　解决问题的策略

练习1　解决问题的策略（一） …… 15
练习2　解决问题的策略（二） …… 16
练习3　习题课 …… 17
第三单元口算能力测试 …… 18

第四单元　混合运算

练习1　没有括号的混合运算（一） …… 19
练习2　没有括号的混合运算（二） …… 20

荣德基 星级口算天天练
微信公众号 教辅资料站

关注微信公众号“教辅资料站”获取更多学习资料

练习3　含有括号的混合运算 …… 21
练习4　习题课 …… 22
第四单元口算能力测试 …… 23

第五单元　年、月、日

练习1　年、月、日（一） …… 24
练习2　年、月、日（二） …… 25
练习3　习题课 …… 26
练习4　24时记时法的认识 …… 27
练习5　简单的经过时间的计算 …… 28
练习6　习题课 …… 29
第五单元口算能力测试 …… 30



第六单元　长方形和正方形的面积

练习1　面积的认识 …… 31
练习2　面积单位 …… 32
练习3　习题课 …… 33
练习4　面积的计算 …… 34
练习5　面积的计算习题课 …… 35
练习6　面积的单位换算 …… 36
练习7　面积的单位换算习题课 …… 37
练习8　复　习 …… 38
第六单元口算能力测试 …… 39

第七单元　分数的初步认识（二）

练习1　认识几分之一（一） …… 40
练习2　认识几分之一（二） …… 41
练习3　认识几分之几（一） …… 42
练习4　认识几分之几（一）习题课 …… 43

华德基 星级口算天天练
微信公众号 教辅资料站

关注微信公众号“教辅资料站”获取更多学习资料



练习5　认识几分之几（二） …… 44
练习6　认识几分之几（二）习题课 …… 45
第七单元口算能力测试 …… 46

第八单元　小数的初步认识

练习1　小数的意义和读写 …… 47
练习2　小数的大小比较 …… 48
练习3　简单的小数加减法 …… 49
练习4　习题课 …… 50
第八单元口算能力测试 …… 51



第九单元　数据的收集和整理（二）

练习1　数据的分类和汇总 …… 52
练习2　数据的简单分析 …… 53
练习3　习题课 …… 54
第九单元口算能力测试 …… 55

第十单元　期末复习

练习1　两位数乘两位数 …… 56
练习2　千米和吨 …… 57
练习3　解决问题的策略 …… 58
练习4　混合运算 …… 59
练习5　年、月、日 …… 60
练习6　长方形和正方形的面积 …… 61
练习7　分数的初步认识（二） …… 62
练习8　小数的初步认识 …… 63
练习9　数据的收集和整理（二） …… 64
口算能力期末综合测评（一） …… 65
口算能力期末综合测评（二） …… 66
口算能力期末综合测评（三） …… 67
口算能力期末综合测评（四） …… 68
参考答案 …… 69



教辅资料站

关注微信公众号“教辅资料站”获取更多学习资料

第六单元 长方形和正方形的面积

练习1 面积的认识

用时：____分____秒　错误：　个

A组 常规口算题

450 ÷5 =	150 ×4 =	16 ×5 =
130 ×2 =	648 ÷6 =	88 ÷4 =
232 ×3 =	72 ÷4 =	390 ÷3 =
36 ×20 =	17 ×40 =	7 ×24 =
357 ÷7 =	800 ÷2 =	270 ×2 =
48 ×4 =	76 ×4 =	180 ×5 =
488 ÷8 =	92 ÷2 =	78 ÷6 =
53 ×30 =	433 ×3 =	630 ÷7 =
65 ÷5 =	520 ÷5 =	36 ×30 =
320 ×3 =	18 ×50 =	963 ÷3 =
48 ×20 =	315 ×3 =	139 ×2 =
78 ×3 =	570 ×2 =	355 ÷5 =
306 ×6 =	936 ÷9 =	190 ×4 =
96 ÷4 =	22 ×6 =	246 ÷3 =
13 ×8 =	340 ×2 =	515 ÷5 =
981 ÷9 =	868 ÷2 =	115 ×5 =

B组 变式口算题

下面的图形，(　　)面积最大，(　　)面积最小。



（1）　　（2）　　（3）

荣德基星级口算天天练
微信公众号
教辅资料站

关注微信公众号“教辅资料站”获取更多学习资料

练习2 面积单位

用时：____分____秒 错误：　个

A组 常规口算题

20 ×5 =	170 ×3 =	408 ÷8 =
480 ÷3 =	41 ×4 =	26 ×30 =
72 ×6 =	55 ÷5 =	111 ×9 =
540 ÷9 =	510 ×3 =	160 ×5 =
150 ×4 =	96 ÷4 =	51 ÷3 =
77 ×2 =	52 ×30 =	612 ÷3 =
313 ×2 =	190 ×4 =	43 ×7 =
150 ×6 =	369 ÷3 =	73 ×4 =
92 ×30 =	94 ×2 =	24 ×40 =
119 ×5 =	248 ÷8 =	98 ÷7 =
60 ÷4 =	33 ×7 =	812 ×3 =
357 ÷7 =	530 ÷5 =	87 ÷3 =
37 ×50 =	642 ÷6 =	330 ×3 =
806 ÷2 =	370 ×2 =	490 ÷7 =
420 ÷4 =	214 ×4 =	123 ÷3 =
448 ×2 =	13 ×60 =	92 ×20 =

B组 变式口算题

1. 在(　　)里填上合适的单位名称。

(1)大拇指指甲的面积大约是1(　　)。

(2)数学课本封面的面积约是360(　　)。

(3)一个广场的面积约是4500(　　)。

(4)一台电视屏幕的面积约是24(　　)。

(5)一张方桌桌面的面积约是144(　　)。

2. 用8个面积是1平方分米的正方形拼成一个长方形，这个长方形的面积是(　　)。

荣德基星级口算天天练
微信公众号 教辅资料站

关注微信公众号“教辅资料站”获取更多学习资料

练习3　习题课

用时：____分____秒　错误：　个

A组　常规口算题

490 ÷7 =	94 ÷2 =	426 −(420 −120) =
108 ×9 =	170 ×3 =	13 ×(15 +25) =
150 ×4 =	568 ÷8 =	13 ×6 −8 =
84 ÷3 =	12 ×50 =	48 ÷(9 ÷3) =
318 ×3 =	93 ÷3 =	400 −80 ×3 =
15 ×30 =	324 ÷3 =	(35 +29) ÷8 =
55 ÷5 =	16 ×40 =	720 ÷8 −45 =
19 ×40 =	105 ×4 =	750 −(144 +156) =
804 ÷2 =	420 ÷7 =	210 +15 ×6 =
70 ×90 =	45 ×3 =	17 ×5 +15 =
26 ×30 =	21 ×40 =	80 ×(17 −9) =
426 ÷6 =	27 ×3 =	485 −17 ×5 =
410 ×3 =	213 ×4 =	720 ÷9 ÷4 =
46 ×6 =	160 ÷5 =	120 ÷2 +45 =
78 ÷3 =	30 ×51 =	360 −60 ÷3 =
17 ×40 =	18 ×20 =	240 ÷(4 ×2) =

B组　变式口算题

1. 下面是用面积为1平方厘米的小正方形拼成的图形，请分别写出它们的周长和面积。

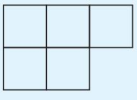

周长：(　　)cm　面积：(　　)cm^2

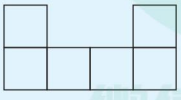

周长：(　　)cm　面积：(　　)cm^2

2. 下面每个小正方形的边长都是1 cm，在方格纸中画出两个面积都是10 cm^2的不同图形。



荣德基星级口算天天练
微信公众号教辅资料站

关注微信公众号“教辅资料站”获取更多学习资料

练习4 面积的计算

用时：____分____秒 错误：　个

A组 常规口算题

◆ 求下列长方形的周长或面积。

长=15 m，宽=4 m，面积=(　　)m^2

长=12 cm，宽=10 cm，面积=(　　)cm^2

长=40 m，宽=35 m，周长=(　　)m

长=12 dm，宽=8 dm，面积=(　　)dm^2

长=9 cm，宽=4 cm，周长=(　　)cm

长=24 dm，宽=3 dm，面积=(　　)dm^2

长=6 dm，宽=3 dm，周长=(　　)dm

长=12 cm，宽=8 cm，面积=(　　)cm^2

长=40 m，宽=22 m，面积=(　　)m^2

长=15 dm，宽=12 dm，周长=(　　)dm

长=27 cm，宽=10 cm，面积=(　　)cm^2

长=50 m，宽=30 m，面积=(　　)m^2

长=130 dm，宽=4 dm，面积=(　　)dm^2

长=7 m，宽=5 m，周长=(　　)m

长=13 cm，宽=9 cm，面积=(　　)cm^2

长=45 dm，宽=5 dm，周长=(　　)m

◆ 求下列正方形的周长或面积。

边长=7 m，面积=(　　)m^2

边长=10 cm，面积=(　　)cm^2

边长=24 dm，周长=(　　)dm

边长=11 m，周长=(　　)m

边长=9 m，面积=(　　)m^2

边长=8 dm，面积=(　　)dm^2

边长=20 cm，面积=(　　)cm^2

边长=21 dm，周长=(　　)dm

边长=11 cm，面积=(　　)cm^2

边长=30 dm，周长=(　　)dm

边长=17 m，周长=(　　)m

边长=40 cm，面积=(　　)cm^2

边长=50 cm，周长=(　　)cm

边长=5 cm，面积=(　　)cm^2

边长=6 dm，周长=(　　)dm

边长=22 cm，周长=(　　)cm

B组 变式口算题

1. 同学们制作的数学手抄报长55 cm，宽40 cm，面积是(　　)cm^2。

2. 一块正方形草坪边长为4米，它的面积是(　　)平方米，周长是(　　)米。

3. 铺1平方米草坪需要5元，现在铺一块长45米、宽20米的长方形草坪需要花(　　)元。

4. 花园内有一块正方形草坪，周长为36米，它的面积是(　　)平方米。

5. 一个正方形鱼池，占地面积为25平方米，鱼池的周长是(　　)米。

关注微信公众号“教辅资料站”获取更多学习资料

练习5　面积的计算习题课

用时：____分____秒　错误：　个

A组　常规口算题

◆ 求下列长方形的周长或面积。

长＝15 dm，宽＝3 dm，面积＝(　　)dm^2

长＝30 cm，宽＝15 cm，面积＝(　　)cm^2

长＝6 m，宽＝4 m，周长＝(　　)m

长＝14 dm，宽＝7 dm，面积＝(　　)dm^2

长＝5 dm，宽＝4 dm，周长＝(　　)dm

长＝24 cm，宽＝20 cm，面积＝(　　)cm^2

长＝16 cm，宽＝10 cm，面积＝(　　)cm^2

长＝16 dm，宽＝5 dm，面积＝(　　)dm^2

长＝14 cm，宽＝5 cm，面积＝(　　)cm^2

长＝16 dm，宽＝6 dm，面积＝(　　)dm^2

长＝22 dm，宽＝20 dm，面积＝(　　)dm^2

长＝9 cm，宽＝6 cm，周长＝(　　)cm

长＝20 cm，宽＝15 cm，面积＝(　　)cm^2

长＝13 dm，宽＝12 dm，周长＝(　　)dm

长＝15 m，宽＝10 m，面积＝(　　)m^2

长＝21 cm，宽＝20 cm，面积＝(　　)cm^2

◆ 求下列正方形的周长或面积。

边长＝8 m，面积＝(　　)m^2

边长＝10 cm，面积＝(　　)cm^2

边长＝5 m，面积＝(　　)m^2

边长＝24 cm，周长＝(　　)cm

边长＝4 cm，面积＝(　　)cm^2

边长＝15 dm，周长＝(　　)dm

边长＝9 dm，面积＝(　　)dm^2

边长＝20 cm，面积＝(　　)cm^2

边长＝16 m，周长＝(　　)m

边长＝6 cm，面积＝(　　)dm^2

边长＝11 m，面积＝(　　)m^2

边长＝25 cm，周长＝(　　)cm

边长＝30 dm，面积＝(　　)dm^2

边长＝50 m，周长＝(　　)m

边长＝23 cm，周长＝(　　)cm

B组　变式口算题

1. 客厅的一面墙长6米，宽3米，墙上有一扇小窗，面积是1平方米。现在要粉刷这面墙壁，要粉刷的面积是(　　)平方米。

2. 从一个长10分米、宽7分米的长方形纸上剪下一个最大的正方形，剪下的正方形面积是(　　)平方分米，剩下部分的面积是(　　)平方分米。

3. 一块地长40米，宽15米，在这块地里种辣椒，如果每平方米收辣椒6千克，一共可以收(　　)千克辣椒。

荣德基星级口算天天练
微信公众号
教辅资料站

关注微信公众号“教辅资料站”获取更多学习资料

练习6 面积的单位换算

用时：____分____秒 错误：　个

A组 常规口算题

3 平方米 =（　　）平方分米
6 平方分米 =（　　）平方厘米
300 平方分米 =（　　）平方米
（　　）平方分米 =4 平方米
（　　）平方分米 =300 平方厘米
200 平方分米 =（　　）平方米
30 平方米 =（　　）平方分米
（　　）平方厘米 =7 平方分米
（　　）平方分米 =600 平方厘米
1 平方米 =（　　）平方分米
200 平方厘米 =（　　）平方分米
（　　）平方米 =700 平方分米
（　　）平方分米 =4 平方米
（　　）平方厘米 =12 平方分米
（　　）平方分米 =50 平方米
14 平方分米 =（　　）平方厘米

1 平方分米 =（　　）平方厘米
400 平方厘米 =（　　）平方分米
600 平方分米 =（　　）平方米
7 平方米 =（　　）平方分米
8 平方米 =（　　）平方分米
（　　）平方厘米 =9 平方分米
（　　）平方分米 =1100 平方厘米
40 平方分米 =（　　）平方厘米
15 平方分米 =（　　）平方厘米
100 平方分米 =（　　）平方米
（　　）平方分米 =37 平方米
（　　）平方分米 =500 平方厘米
21 平方米 =（　　）平方分米
（　　）平方分米 =9 平方米
（　　）平方厘米 =8 平方分米
34 平方米 =（　　）平方分米

B组 变式口算题

1. 一张长方形桌面长 20 分米，宽 5 分米，这张长方形桌面的面积是（　　）平方分米，合（　　）平方米。
2. 在一块长 30 米、宽 15 米的长方形地里种西红柿，若每平方米种西红柿 8 株，一共可以种西红柿（　　）株。
3. 公园里有形状分别为长方形和正方形的两个花圃，已知它们的周长相等，长方形花圃长 32 分米，宽 8 分米，长方形花圃的面积是（　　）平方分米，正方形花圃的边长是（　　）分米，面积是（　　）平方分米，合（　　）平方米。

荣德基星级口算天天练 教辅资料站

关注微信公众号“教辅资料站”获取更多学习资料

练习7　面积的单位换算习题课

用时：____分____秒　错误：　个

A组　常规口算题

5 平方分米 =（　　）平方厘米
4 平方米 =（　　）平方分米
700 平方厘米 =（　　）平方分米
（　　）平方厘米 =3 平方分米
（　　）平方分米 =1400 平方厘米
23 平方米 =（　　）平方分米
2000 平方分米 =（　　）平方米
42 平方分米 =（　　）平方厘米
（　　）平方分米 =9 平方米
（　　）平方分米 =200 平方厘米
1200 平方分米 =（　　）平方米
4 平方分米 =（　　）平方厘米
600 平方分米 =（　　）平方米
77 平方米 =（　　）平方分米
（　　）平方分米 =100 平方厘米
25 平方米 =（　　）平方分米

600 平方厘米 =（　　）平方分米
1 平方米 =（　　）平方分米
10 平方分米 =（　　）平方厘米
2 平方米 =（　　）平方分米
（　　）平方分米 =1700 平方厘米
4300 平方厘米 =（　　）平方分米
900 平方分米 =（　　）平方米
（　　）平方分米 =3 平方米
（　　）平方分米 =400 平方厘米
8 平方米 =（　　）平方分米
22 平方分米 =（　　）平方厘米
3500 平方厘米 =（　　）平方分米
1000 平方厘米 =（　　）平方分米
800 平方厘米 =（　　）平方分米
200 平方分米 =（　　）平方米
30 平方分米 =（　　）平方厘米

B组　变式口算题

1. 妈妈在长方形餐桌上铺了一块和餐桌大小相等的透明玻璃纤维板，餐桌桌面长 90 厘米，宽 50 厘米，这块透明玻璃纤维板的面积是（　　）平方厘米，合（　　）平方分米。

2. 有两个完全一样的长方形，长 40 厘米，宽 20 厘米。
   （1）用这两个长方形拼成一个大长方形，拼成的大长方形的面积是（　　）平方分米，周长是（　　）厘米。
   （2）用这两个长方形拼成一个正方形，面积是（　　）平方分米，周长是（　　）厘米。

荣德基星级口算天天练
微信公众号是教辅资料站

关注微信公众号“教辅资料站”获取更多学习资料

练习8 复 习

用时：___分___秒 错误：　个

A组 常规口算题

◆ 求下列长方形的周长或面积。

长＝17 dm，宽＝8 dm，面积＝(　　)dm^2

长＝20 dm，宽＝15 dm，面积＝(　　)dm^2

长＝5 cm，宽＝3 cm，周长＝(　　)cm

长＝12 dm，宽＝9 dm，面积＝(　　)dm^2

长＝18 m，宽＝10 m，面积＝(　　)m^2

长＝11 cm，宽＝7 cm，面积＝(　　)cm^2

长＝15 cm，宽＝5 cm，周长＝(　　)cm

长＝16 m，宽＝8 m，面积＝(　　)m^2

长＝12 cm，宽＝7 cm，面积＝(　　)cm^2

长＝30 dm，宽＝25 dm，面积＝(　　)dm^2

长＝7 dm，宽＝4 dm，周长＝(　　)dm

长＝22 m，宽＝20 m，面积＝(　　)m^2

长＝35 m，宽＝30 m，面积＝(　　)m^2

长＝15 m，宽＝7 m，周长＝(　　)m

长＝21 dm，宽＝10 dm，面积＝(　　)dm^2

◆ 求下列正方形的周长或面积。

边长＝4 m，面积＝(　　)m^2

边长＝28 dm，周长＝(　　)dm

边长＝11 cm，周长＝(　　)cm

边长＝20 dm，面积＝(　　)dm^2

边长＝6 dm，面积＝(　　)dm^2

边长＝9 cm，面积＝(　　)cm^2

边长＝50 cm，面积＝(　　)cm^2

边长＝36 cm，周长＝(　　)cm

边长＝3 dm，面积＝(　　)dm^2

边长＝2 m，面积＝(　　)m^2

边长＝16 dm，周长＝(　　)dm

边长＝71 cm，周长＝(　　)cm

边长＝8 cm，面积＝(　　)cm^2

边长＝10 dm，面积＝(　　)dm^2

边长＝29 dm，周长＝(　　)dm

B组 变式口算题

1. 计算下面图形的面积。(单位：厘米)

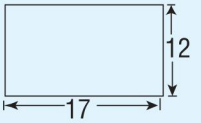

面积：(　　)平方厘米

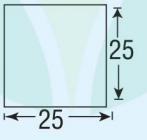

面积：(　　)平方厘米

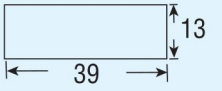

面积：(　　)平方厘米

2. 一块长方形地毯，长 90 厘米，宽 60 厘米，面积是(　　)平方厘米，合(　　)平方分米。

关注微信公众号“教辅资料站”获取更多学习资料

第六单元口算能力测试

用时：____分____秒　错误：　个

A组 常规口算题

2 平方米 =（　　）平方分米　　44 平方米 =（　　）平方分米

3 平方分米 =（　　）平方厘米　　10 平方米 =（　　）平方分米

400 平方分米 =（　　）平方米　　8 平方分米 =（　　）平方厘米

100 平方厘米 =（　　）平方分米　　7 平方米 =（　　）平方分米

6 平方米 =（　　）平方分米　　500 平方厘米 =（　　）平方分米

700 平方厘米 =（　　）平方分米　　600 平方分米 =（　　）平方米

14 平方分米 =（　　）平方厘米　　1100 平方分米 =（　　）平方米

20 平方米 =（　　）平方分米　　19 平方米 =（　　）平方分米

4000 平方厘米 =（　　）平方分米　　700 平方分米 =（　　）平方米

800 平方分米 =（　　）平方米　　13 平方分米 =（　　）平方厘米

11 平方米 =（　　）平方分米　　50 平方米 =（　　）平方分米

5 平方分米 =（　　）平方厘米　　3500 平方厘米 =（　　）平方分米

9 平方米 =（　　）平方分米　　6000 平方分米 =（　　）平方米

1200 平方厘米 =（　　）平方分米　　800 平方厘米 =（　　）平方分米

15 平方米 =（　　）平方分米　　900 平方分米 =（　　）平方米

25 平方分米 =（　　）平方厘米　　45 平方米 =（　　）平方分米

B组 变式口算题

1. 一张方桌，桌面的边长为 8 分米，给方桌面配一块大小相等的桌布，桌布的面积是（　　）平方分米，合（　　）平方厘米，要在桌布四周缝上花边，至少需要准备（　　）分米长的花边。

2. 有一块长 15 米、宽 4 米的长方形花生地，平均每平方米能收 3 千克花生，这块地一共能收花生（　　）千克。

3. 用一根铁丝正好围成了一个长 8 厘米、宽 2 厘米的长方形，如果用这根铁丝改围成一个最大的正方形，则这个正方形的面积是（　　）平方厘米。

关注微信公众号“教辅资料站”获取更多学习资料

练习1　认识几分之一（一）

用时：____分____秒　错误：　个

A组 常规口算题

22 ×20 =
50 ×50 =
18 ×4 =
147 ÷7 =
96 ÷3 =
124 ×2 =
183 ÷3 =
60 ×60 =
34 ×30 =
23 ×5 =
48 ÷4 =
220 ÷4 =
33 ×7 =
114 ×3 =
264 ÷6 =
406 ×2 =

◆ 比较大小。

$\frac{7}{10}$ ◯ $\frac{3}{10}$
$\frac{5}{6}$ ◯ $\frac{4}{6}$
$\frac{1}{3}$ ◯ $\frac{1}{4}$
$\frac{3}{4}$ ◯ $\frac{3}{4}$
$\frac{1}{9}$ ◯ $\frac{7}{9}$
$\frac{1}{6}$ ◯ $\frac{1}{7}$
$\frac{2}{7}$ ◯ $\frac{5}{7}$
$\frac{3}{5}$ ◯ $\frac{2}{5}$
$\frac{1}{8}$ ◯ $\frac{1}{5}$

$\frac{3}{6}+\frac{2}{6}=$
$\frac{3}{5}+\frac{1}{5}=$
$\frac{9}{10}-\frac{7}{10}=$
$\frac{2}{7}+\frac{3}{7}=$
$\frac{1}{4}+\frac{1}{4}=$
$\frac{2}{3}-\frac{1}{3}=$
$\frac{5}{8}+\frac{1}{8}=$
$\frac{3}{10}+\frac{6}{10}=$
$\frac{5}{6}-\frac{5}{6}=$
$\frac{1}{4}+\frac{2}{4}=$
$\frac{5}{7}-\frac{4}{7}=$
$\frac{6}{8}-\frac{3}{8}=$

B组 变式口算题

用分数表示下列各图中的阴影部分。


（　　）
（　　）

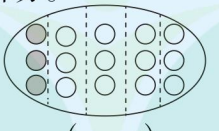
（　　）
（　　）


（　　）
（　　）

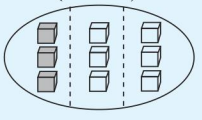
（　　）
（　　）

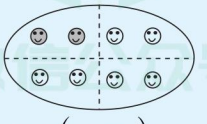
（　　）
（　　）

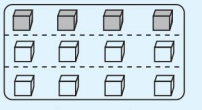
（　　）
（　　）

荣德基 星级日算天天练

关注微信公众号“教辅资料站”获取更多学习资料

练习2　认识几分之一（二）

用时：____分____秒　错误：　个

A组　常规口算题

12 ×3 =
72 ×4 =
126 ÷2 =
123 ×2 =
996 ÷3 =
17 ×40 =
84 ×2 =
70 ×60 =
53 ×3 =
18 ×20 =
116 ×3 =
560 ÷7 =
50 ×80 =
214 ×3 =
546 ÷6 =
123 ×3 =

◆ 比较大小。

$\frac{1}{4}$ ◯ $\frac{1}{5}$
$\frac{3}{7}$ ◯ $\frac{4}{7}$
$\frac{1}{8}$ ◯ $\frac{1}{7}$
$\frac{2}{8}$ ◯ $\frac{6}{8}$
$\frac{1}{6}$ ◯ $\frac{1}{3}$
$\frac{5}{8}$ ◯ $\frac{3}{8}$
$\frac{1}{5}$ ◯ $\frac{1}{6}$
$\frac{4}{9}$ ◯ $\frac{5}{9}$
$\frac{1}{9}$ ◯ $\frac{1}{5}$

$\frac{1}{3}+\frac{1}{3}=$
$\frac{3}{4}-\frac{2}{4}=$
$\frac{4}{8}+\frac{3}{8}=$
$\frac{7}{9}-\frac{2}{9}=$
$\frac{6}{7}-\frac{3}{7}=$
$\frac{3}{6}+\frac{2}{6}=$
$\frac{1}{5}+\frac{3}{5}=$
$\frac{8}{10}-\frac{4}{10}=$
$\frac{4}{9}+\frac{2}{9}=$
$\frac{1}{8}+\frac{6}{8}=$
$\frac{5}{7}-\frac{3}{7}=$
$\frac{3}{8}+\frac{3}{8}=$

B组　变式口算题

1. 下面苹果的$\frac{1}{3}$是多少个？



□ ÷ □ = □（个）

2. 下面香蕉的$\frac{1}{5}$是多少个？



□ ÷ □ = □（个）

3. 下面苹果的$\frac{1}{6}$是多少个？



□ ÷ □ = □（个）

4. 下面兔子的$\frac{1}{4}$是多少只？



□ ÷ □ = □（只）

荣德基星级口算天天练
微信公众号 教辅资料站

关注微信公众号“教辅资料站”获取更多学习资料

练习3 认识几分之几（一）

用时：____分____秒 错误：　个

A组 常规口算题

42 ×2 =
45 ÷3 =
23 ×30 =
124 ×2 =
52 ×3 =
96 ÷3 =
46 ×20 =
116 ×3 =
90 ×60 =
248 ÷2 =
34 ×20 =
207 ×4 =
567 ÷7 =
70 ×80 =
45 ×3 =
407 ×2 =

◆ 比较大小。

$\frac{1}{5}$ ◯ $\frac{1}{6}$
$\frac{5}{7}$ ◯ $\frac{3}{7}$
$\frac{1}{7}$ ◯ $\frac{1}{4}$
$\frac{5}{8}$ ◯ $\frac{6}{8}$
$\frac{1}{8}$ ◯ $\frac{1}{9}$
$\frac{4}{6}$ ◯ $\frac{2}{6}$
$\frac{1}{3}$ ◯ $\frac{1}{2}$
$\frac{3}{4}$ ◯ $\frac{1}{4}$
$\frac{1}{4}$ ◯ $\frac{1}{8}$

$\frac{1}{8}+\frac{4}{8}=$
$\frac{2}{7}+\frac{3}{7}=$
$\frac{6}{9}-\frac{3}{9}=$
$\frac{5}{6}-\frac{2}{6}=$
$\frac{4}{7}+\frac{1}{7}=$
$\frac{5}{10}+\frac{4}{10}=$
$\frac{8}{9}-\frac{6}{9}=$
$\frac{3}{7}+\frac{3}{7}=$
$\frac{1}{4}+\frac{2}{4}=$
$\frac{5}{8}-\frac{1}{8}=$
$\frac{7}{9}-\frac{5}{9}=$
$\frac{4}{6}+\frac{1}{6}=$

B组 变式口算题

涂色表示下面的分数。



$\frac{2}{3}$



$\frac{4}{5}$

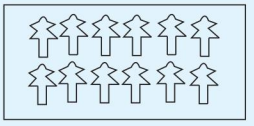

$\frac{5}{6}$



$\frac{3}{4}$

荣德基星级口算天天练
微信公众号 教辅资料站

关注微信公众号“教辅资料站”获取更多学习资料

练习4　认识几分之几（一）习题课

用时：____分____秒　错误：　个

A组　常规口算题

◆ 比较大小。

$\frac{1}{3}$ ◯ $\frac{1}{4}$

$\frac{1}{2}$ ◯ $\frac{1}{3}$

$\frac{3}{4}$ ◯ $\frac{3}{4}$

$\frac{7}{8}$ ◯ $\frac{5}{8}$

$\frac{5}{9}$ ◯ $\frac{7}{9}$

$\frac{2}{3}$ ◯ $\frac{1}{3}$

$\frac{4}{5}$ ◯ $\frac{3}{5}$

$\frac{1}{7}$ ◯ $\frac{1}{5}$

$\frac{1}{9}$ ◯ $\frac{1}{10}$

$\frac{3}{8}$ ◯ $\frac{2}{8}$

$\frac{6}{7}$ ◯ $\frac{6}{7}$

$\frac{1}{3}+\frac{1}{3}=$

$\frac{3}{4}-\frac{1}{4}=$

$\frac{2}{4}+\frac{1}{4}=$

$\frac{1}{7}+\frac{5}{7}=$

$\frac{3}{7}+\frac{1}{7}=$

$\frac{8}{9}-\frac{5}{9}=$

$\frac{1}{6}+\frac{3}{6}=$

$\frac{4}{10}+\frac{3}{10}=$

$\frac{3}{7}+\frac{2}{7}=$

$\frac{4}{5}-\frac{4}{5}=$

$\frac{7}{8}-\frac{2}{8}=$

$\frac{1}{4}+\frac{1}{4}=$

1分米 = $\frac{(\quad)}{(\quad)}$米

2角 = $\frac{(\quad)}{(\quad)}$元

4厘米 = $\frac{(\quad)}{(\quad)}$分米

8分米 = $\frac{(\quad)}{(\quad)}$米

5角 = $\frac{(\quad)}{(\quad)}$元

4角 = $\frac{(\quad)}{(\quad)}$元

9厘米 = $\frac{(\quad)}{(\quad)}$分米

7角 = $\frac{(\quad)}{(\quad)}$元

6分米 = $\frac{(\quad)}{(\quad)}$米

2分米 = $\frac{(\quad)}{(\quad)}$米

5厘米 = $\frac{(\quad)}{(\quad)}$分米

3角 = $\frac{(\quad)}{(\quad)}$元

B组　变式口算题

1. 

把一条线段平均分成8份，1份是它的$\frac{(\quad)}{(\quad)}$，4份是它的$\frac{(\quad)}{(\quad)}$。

2. ☆☆☆☆☆☆☆☆☆

1个☆占这些星星的$\frac{(\quad)}{(\quad)}$，5个☆占这些星星的$\frac{(\quad)}{(\quad)}$。

荣德基星级口算天天练
微信公众号 教辅资料站

关注微信公众号“教辅资料站”获取更多学习资料

练习5 认识几分之几（二）

用时：____分____秒 错误：　个

A组 常规口算题

$\frac{9}{10}-\frac{7}{10}=$

$\frac{1}{5}+\frac{1}{5}=$

$\frac{3}{8}-\frac{1}{8}=$

$\frac{6}{8}-\frac{4}{8}=$

$\frac{2}{4}+\frac{1}{4}=$

$\frac{7}{9}+\frac{1}{9}=$

$\frac{1}{10}+\frac{3}{10}=$

$\frac{6}{7}-\frac{3}{7}=$

$\frac{4}{6}+\frac{1}{6}=$

$\frac{1}{6}+\frac{3}{6}=$

$\frac{1}{3}+\frac{1}{3}=$

$\frac{6}{7}-\frac{4}{7}=$

◆ 比较大小。

$\frac{1}{3}$ ◯ $\frac{2}{3}$

$\frac{9}{10}$ ◯ $\frac{9}{10}$

$\frac{4}{5}$ ◯ $\frac{3}{5}$

$\frac{2}{7}$ ◯ $\frac{3}{7}$

$\frac{1}{5}$ ◯ $\frac{1}{3}$

$\frac{2}{9}$ ◯ $\frac{7}{9}$

$\frac{8}{10}$ ◯ $\frac{6}{10}$

$\frac{1}{3}$ ◯ $\frac{1}{2}$

$\frac{1}{8}$ ◯ $\frac{1}{10}$

1角 = $\frac{(\quad)}{(\quad)}$元

2厘米 = $\frac{(\quad)}{(\quad)}$分米

9角 = $\frac{(\quad)}{(\quad)}$元

9分米 = $\frac{(\quad)}{(\quad)}$米

6厘米 = $\frac{(\quad)}{(\quad)}$分米

7分米 = $\frac{(\quad)}{(\quad)}$米

8角 = $\frac{(\quad)}{(\quad)}$元

4厘米 = $\frac{(\quad)}{(\quad)}$分米

3厘米 = $\frac{(\quad)}{(\quad)}$分米

2角 = $\frac{(\quad)}{(\quad)}$元

5分米 = $\frac{(\quad)}{(\quad)}$米

1分米 = $\frac{(\quad)}{(\quad)}$米

B组 变式口算题

1.



这些蜜蜂的$\frac{3}{4}$是多少只？

□ ÷ □ × □ = □（　　）

2.

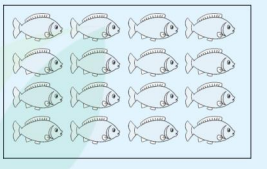

这些鱼的$\frac{3}{4}$是多少条？

□ ÷ □ × □ = □（　　）

荣德基星级口算天天练
微信公众号 教辅资料站

关注微信公众号“教辅资料站”获取更多学习资料

练习6　认识几分之几（二）习题课

用时：____分____秒　错误：　个

A组　常规口算题

◆ 比较大小。

$\frac{1}{3}$ ◯ $\frac{1}{4}$

$\frac{3}{4}$ ◯ $\frac{2}{4}$

$\frac{1}{5}$ ◯ $\frac{1}{7}$

$\frac{3}{5}$ ◯ $\frac{4}{5}$

$\frac{1}{8}$ ◯ $\frac{1}{9}$

$\frac{4}{6}$ ◯ $\frac{5}{6}$

$\frac{1}{4}$ ◯ $\frac{1}{6}$

$\frac{4}{7}$ ◯ $\frac{3}{7}$

$\frac{1}{7}$ ◯ $\frac{1}{6}$

$\frac{2}{8}$ ◯ $\frac{7}{8}$

$\frac{1}{7}$ ◯ $\frac{1}{8}$

$\frac{1}{4}+\frac{2}{4}=$

$\frac{1}{5}+\frac{2}{5}=$

$\frac{5}{6}-\frac{3}{6}=$

$\frac{4}{7}-\frac{1}{7}=$

$\frac{1}{3}+\frac{1}{3}=$

$\frac{2}{6}+\frac{3}{6}=$

$\frac{5}{6}-\frac{1}{6}=$

$\frac{6}{7}-\frac{3}{7}=$

$\frac{1}{8}+\frac{6}{8}=$

$\frac{4}{7}+\frac{2}{7}=$

$\frac{8}{9}-\frac{6}{9}=$

$\frac{7}{8}-\frac{2}{8}=$

5分米 = $\frac{(\quad)}{(\quad)}$米

4角 = $\frac{(\quad)}{(\quad)}$元

7分米 = $\frac{(\quad)}{(\quad)}$米

6厘米 = $\frac{(\quad)}{(\quad)}$分米

3角 = $\frac{(\quad)}{(\quad)}$元

4分米 = $\frac{(\quad)}{(\quad)}$米

6分米 = $\frac{(\quad)}{(\quad)}$米

5角 = $\frac{(\quad)}{(\quad)}$元

9厘米 = $\frac{(\quad)}{(\quad)}$分米

8分米 = $\frac{(\quad)}{(\quad)}$米

2角 = $\frac{(\quad)}{(\quad)}$元

5厘米 = $\frac{(\quad)}{(\quad)}$分米

B组　变式口算题

1. 小鸡的$\frac{1}{5}$是(　　)只。



2. 草莓的$\frac{2}{3}$是(　　)个。



3. 三角形的$\frac{5}{8}$是(　　)个。

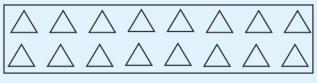

4. 爸爸今年36岁，妈妈的年龄是爸爸的$\frac{8}{9}$，小明的年龄是妈妈的$\frac{1}{4}$，妈妈今年(　　)岁，小明今年(　　)岁。

荣德基星级口算天天练
微信公众号教辅资料站

关注微信公众号“教辅资料站”获取更多学习资料

第七单元口算能力测试

用时：____分____秒 错误：　个

A组 常规口算题

◆ 比较大小。

$\frac{1}{7}$ ◯ $\frac{1}{8}$　$\frac{2}{8}$ ◯ $\frac{5}{8}$　$\frac{1}{5}$ ◯ $\frac{1}{6}$　$\frac{3}{7}$ ◯ $\frac{2}{7}$　$\frac{1}{4}$ ◯ $\frac{1}{3}$　$\frac{3}{4}$ ◯ $\frac{2}{4}$　$\frac{1}{2}$ ◯ $\frac{1}{9}$　$\frac{4}{5}$ ◯ $\frac{3}{5}$　$\frac{1}{4}$ ◯ $\frac{1}{6}$　$\frac{2}{8}$ ◯ $\frac{6}{8}$

$\frac{1}{3}+\frac{1}{3}=$　$\frac{2}{4}+\frac{1}{4}=$　$\frac{4}{5}-\frac{2}{5}=$　$\frac{3}{6}-\frac{1}{6}=$　$\frac{4}{7}+\frac{2}{7}=$　$\frac{3}{8}+\frac{3}{8}=$　$\frac{4}{6}-\frac{1}{6}=$　$\frac{6}{7}-\frac{4}{7}=$　$\frac{3}{8}+\frac{4}{8}=$　$\frac{5}{9}+\frac{2}{9}=$　$\frac{7}{8}-\frac{2}{8}=$　$\frac{5}{7}-\frac{1}{7}=$

1 分 = $\frac{(\quad)}{(\quad)}$ 角　2 分米 = $\frac{(\quad)}{(\quad)}$ 米　3 厘米 = $\frac{(\quad)}{(\quad)}$ 分米　5 分米 = $\frac{(\quad)}{(\quad)}$ 米　7 角 = $\frac{(\quad)}{(\quad)}$ 元　4 分米 = $\frac{(\quad)}{(\quad)}$ 米　8 厘米 = $\frac{(\quad)}{(\quad)}$ 分米　4 角 = $\frac{(\quad)}{(\quad)}$ 元　7 厘米 = $\frac{(\quad)}{(\quad)}$ 分米　6 分米 = $\frac{(\quad)}{(\quad)}$ 米　3 角 = $\frac{(\quad)}{(\quad)}$ 元　7 分米 = $\frac{(\quad)}{(\quad)}$ 米

B组 变式口算题

1. 先按要求拿一拿，再列式计算。

(1) 拿出 8 个苹果的$\frac{3}{4}$，拿出了几个苹果？

_____

(2) 拿出 12 个苹果的$\frac{3}{4}$，拿出了几个苹果？

_____

(3) 拿出 16 个苹果的$\frac{3}{4}$，拿出了几个苹果？

_____

2. 先在钟面上分一分，涂一涂，再解答问题。

(1) 1 小时的$\frac{2}{3}$是多少分钟？

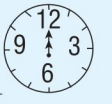

_____

(2) 1 小时的$\frac{2}{6}$是多少分钟？

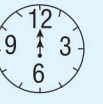

_____

荣德基星级口算天天练
微信公众号 教辅资料站

关注微信公众号“教辅资料站”获取更多学习资料

第八单元 小数的初步认识

练习1 小数的意义和读写

用时：____分____秒　错误：　个

A组 常规口算题

123 ×3 =	$\frac{2}{5}+\frac{1}{5}=$	◆ 读出下面的小数。
45 ×2 =	$\frac{3}{5}-\frac{1}{5}=$	0.5(　　)
23 ×20 =	$\frac{1}{6}+\frac{4}{6}=$	1.4(　　)
560 ÷7 =	$\frac{3}{5}+\frac{1}{5}=$	0.8(　　)
70 ×80 =	$\frac{4}{7}+\frac{2}{7}=$	2.3(　　)
117 ×3 =	$\frac{6}{8}-\frac{3}{8}=$	3.5(　　)
33 ×30 =	$\frac{4}{7}-\frac{2}{7}=$	4.6(　　)
78 ÷3 =	$\frac{5}{9}-\frac{3}{9}=$	0.9(　　)
90 ×50 =	$\frac{1}{4}+\frac{1}{4}=$	7.3(　　)
412 ×2 =	$\frac{2}{6}+\frac{3}{6}=$	8.2(　　)
42 ×20 =	$\frac{7}{8}-\frac{2}{8}=$	2.1(　　)
58 ×3 =	$\frac{8}{9}-\frac{1}{9}=$	9.6(　　)
819 ÷9 =		6.9(　　)
307 ×3 =		5.2(　　)
303 ÷3 =		7.4(　　)
416 ×2 =		4.7(　　)

B组 变式口算题

1. 在括号里填上合适的数。



1分米　　4分米　　(　　)分米

$\frac{1}{10}$米　　(　　)米　　(　　)米

0.1米　　(　　)米　　(　　)米

2. 分别用分数和小数表示图中的涂色部分。



分数(　　)　(　　)　(　　)

小数(　　)　(　　)　(　　)

荣德基 星级口算天天练

关注微信公众号“教辅资料站”获取更多学习资料

练习2 小数的大小比较

用时：____分____秒 错误：　个

A组 常规口算题

43 ×3 =	47 ×2 =	◆ 比较大小。
450 ÷5 =	50 ×90 =	0.6 ◯ 0.9
12 ×40 =	82 ÷2 =	4.7 ◯ 7.4
116 ×2 =	124 ×2 =	0.5 ◯ 1.5
90 ×60 =	32 ×30 =	0.8 ◯ 0.7
48 ÷3 =	506 ×3 =	6.5 ◯ 5.6
23 ×30 =	90 ×70 =	3.6 ◯ 4.7
120 ×5 =	64 ÷4 =	0.5 ◯ 0.7
50 ×40 =	25 ×30 =	2.8 ◯ 3.1
408 ×2 =	722 ×3 =	8.3 ◯ 3.8
24 ×20 =	60 ×60 =	0.8 ◯ 0.6
555 ÷5 =	93 ×3 =	4.7 ◯ 2.2
522 ×3 =	17 ×20 =	5.4 ◯ 4.5
70 ×80 =	568 ÷8 =	0.5 ◯ 0.3
147 ×2 =	148 ×2 =	3.3 ◯ 4.3
637 ÷7 =	808 ÷4 =	4.9 ◯ 5.1

B组 变式口算题

1. 根据涂色部分写出小数，再比较大小。



2. 先在□里填上合适的小数，再将这些小数从大到小排列。

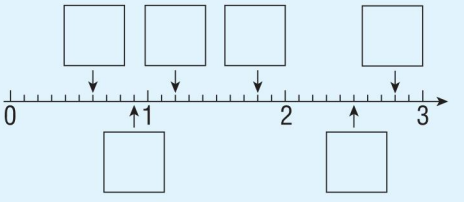

荣德基星级口算天天练

关注微信公众号“教辅资料站”获取更多学习资料

练习3　简单的小数加减法

用时：____分____秒　错误：　个

A组　常规口算题

7.5 −3.3 =	4.3 +5.5 =	3.7 −2.4 =
0.6 +0.5 =	7.6 +2.3 =	5.1 +1.5 =
5.8 −1.6 =	8.8 −6.6 =	9.9 −6.6 =
3.4 +4.1 =	7.5 −4.5 =	3.3 +2.3 =
5.4 −2.5 =	9.2 −1.2 =	1.7 −0.8 =
6.6 −0.5 =	4.3 +4.5 =	1.5 +1.5 =
7.1 +2.6 =	1.9 +2.1 =	6.8 −3.4 =
3.4 −1.2 =	0.7 +4.5 =	7.7 −0.8 =
4.9 −4.3 =	1.1 +8.2 =	6.5 −3.5 =
5.5 +3.2 =	4.9 −3.6 =	7.3 +2.5 =
7.9 −2.8 =	3.1 +1.3 =	2.2 +1.4 =
9.8 −8.8 =	2.6 +6.3 =	9.7 −8.6 =
2.4 +4.7 =	8.2 −2.2 =	5.8 +1.1 =
8.1 −1.2 =	6.2 +2.5 =	3.9 −2.7 =
9.4 −2.3 =	0.8 +1.2 =	9.4 +0.3 =

B组　变式口算题

1.

6.2	7.3	2.9	3.5
−1.7	−3.7	+4.7	+5.6
□.□	□.□	□.□	□.□

2.



4.8 元/本



3.4 元/本

(1)买一本《童话故事》和一本《动脑筋》一共要花(　　)元。

(2)买一本《童话故事》比买一本《动脑筋》多花(　　)元。

荣德基星级口算天天练

关注微信公众号“教辅资料站”获取更多学习资料

练习4 习题课

用时：____分____秒 错误：　个

A组 常规口算题

◆ 比较大小。

1.6 ◯ 1.5

2.4 ◯ 2.5

0.3 ◯ 1.3

1.8 ◯ 1.6

3.7 ◯ 3.9

1.4 ◯ 4.2

5.2 ◯ 2.5

6.8 ◯ 8.6

0.5 ◯ 1.5

1.1 ◯ 1.8

2.2 ◯ 1.2

7.5 ◯ 7.6

0.1 +0.3 =

2.3 +0.4 =

1.8 +0.1 =

3.3 −0.2 =

5.8 −2.4 =

2.1 +3.6 =

4.2 −2.1 =

5.5 +2.3 =

4.5 −0.6 =

3.2 +1.8 =

5.4 −0.3 =

6.9 −2.7 =

8.8 +1.1 =

9.6 −4.5 =

6.5 −0.9 =

2.2 +1.9 =

3.1 +2.2 =

0.4 +1.4 =

5.2 +0.3 =

4.6 −0.5 =

5.1 +2.7 =

1.6 −1.5 =

2.5 −0.4 =

8.6 −4.5 =

7.2 +2.3 =

1.1 +3.3 =

9.6 −6.5 =

4.1 +2.4 =

5.8 −2.6 =

7.6 −0.7 =

8.5 −1.4 =

4.6 +3.3 =

B组 变式口算题

1. 根据每组数的排列规律，接着往下写。

(1)0.2,0.4,0.6,0.8,(　　),(　　)。

(2)0.5,0.8,1.1,1.4,(　　),(　　)。

(3)4.9,4.2,3.5,2.8,(　　),(　　)。

2. 一条绳子长8.3米，用去1.7米后，还剩(　　)米。

3. 小华家五月份的煤气费是40.3元，六月份比五月份多用2.4元，小华家六月份的煤气费是(　　)元。

4. 爸爸比儿子高4.2分米，妈妈比儿子高3.3分米。爸爸比妈妈高(　　)分米。

荣德基星级口算天天练

关注微信公众号“教辅资料站”获取更多学习资料

第八单元口算能力测试

用时：____分____秒　错误：　个

A组　常规口算题

◆ 比较大小。

0.1 ◯ 0.3

1.5 ◯ 5.5

2.1 ◯ 1.1

4 ◯ 0.4

5.1 ◯ 6.1

4.4 ◯ 4.3

6.7 ◯ 7.6

8.3 ◯ 8.5

5.4 ◯ 5.3

6.6 ◯ 6.7

8.2 ◯ 9.2

1.7 ◯ 1.8

0.8 +1.2 =	1.2 +1.3 =
6.9 −6.3 =	2.2 +5.6 =
4.5 −4.1 =	0.5 +7.1 =
1.8 +1.2 =	1.8 +8.1 =
3.7 −3.5 =	9.9 −4.4 =
2.1 +1.9 =	4.3 +2.6 =
3.5 −1.8 =	3.1 +1.6 =
5.2 +2.6 =	5.5 −2.4 =
7.4 −1.3 =	4.6 +0.3 =
9.8 −6.4 =	7.1 +1.3 =
4.4 +4.4 =	6.6 −4.2 =
2.1 +5.5 =	5.2 −2.5 =
6.6 −3.4 =	7.9 −6.7 =
1.7 +1.7 =	4.3 −1.1 =
5.6 −2.9 =	2.7 +3.1 =
4.3 −1.3 =	1.7 +2.7 =

B组　变式口算题

富春“放心早餐”价格表

菜包:1.2 元/个	烧麦:1.3 元/个
豆沙包:0.7 元/个	油糕:1.5 元/个
肉包:1.5 元/个	油条:1.2 元/根
米粥:1 元/碗	牛奶:3.5 元/杯

1. 买一个菜包和一个豆沙包一共(　　)元。
2. 买一个烧麦和一根油条一共(　　)元。
3. 一个肉包比一个菜包贵(　　)元。
4. 一个肉包比一个烧麦贵(　　)元。

荣德基星级口算天天练

关注微信公众号“教辅资料站”获取更多学习资料

练习1　数据的分类和汇总

用时：____分____秒　错误：　个

A组 常规口算题

12 ×6 =	120 ×8 =	0.2 +0.8 =
450 ÷9 =	828 ÷2 =	1.1 +1.5 =
663 ÷3 =	18 ×50 =	2.3 −2.2 =
24 ×20 =	72 ÷3 =	3.5 −1.3 =
84 ×2 =	301 ×7 =	0.6 +0.7 =
142 ×2 =	211 ×6 =	5.1 −2.4 =
455 ÷5 =	46 ×8 =	3.3 +4.3 =
35 ×4 =	420 ×3 =	4.6 −2.8 =
505 ÷5 =	34 ×7 =	3.1 +1.8 =
130 ×5 =	70 ×80 =	2.9 −2.7 =
27 ×30 =	440 ÷8 =	7.6 +2.3 =
126 ÷6 =	105 ×6 =	8.8 −5.7 =
106 ×7 =	5 ×71 =	9.6 −0.8 =
305 ×5 =	520 ÷5 =	4.3 +5.6 =
45 ×2 =	112 ×7 =	1.8 +2.4 =
118 ×4 =	105 ×5 =	4.6 +3.5 =

荣德基 星级口算天天练

B组 变式口算题

红星小学三年级四个班男、女生人数统计表如下：

班级	一		二		三		四	
性别	男	女	男	女	男	女	男	女
人数	15	21	22	14	25	20	18	23

将左面的数据按男、女生分类，将下表补充完整，看看男生多还是女生多。

性别	男	女
人数		

(　　)生多。

关注微信公众号“教辅资料站”获取更多学习资料

练习2　数据的简单分析

用时：____分____秒　错误：　个

A组　常规口算题

21 ×8 =	1.3 +1.5 =	2.4 +2.5 =
856 ÷8 =	2.6 −0.8 =	1.6 +0.6 =
92 ×40 =	4.4 −4.1 =	7.4 −4.7 =
240 ×2 =	2.9 +3.1 =	0.9 +1.2 =
202 ×4 =	9.7 −1.8 =	1.4 −0.8 =
83 ×3 =	5.4 +2.6 =	2.2 −1.6 =
124 ×4 =	1.1 +8.8 =	3.4 +4.5 =
84 ÷7 =	7.7 −0.9 =	1.3 +0.8 =
23 ×20 =	3.2 +6.7 =	3.5 −1.7 =
5 ×210 =	4.5 −3.5 =	5.2 +0.9 =
939 ÷3 =	1.6 +8.3 =	7.8 −6.9 =
357 ÷7 =	5.1 −1.1 =	8.5 −4.5 =
302 ×6 =	2.3 +3.3 =	2.4 +5.5 =
87 ×3 =	4.1 +5.7 =	6.8 −2.8 =
74 ×3 =	3.8 +6.1 =	7.5 −6.7 =
32 ×50 =	7.9 −6.3 =	2.1 −0.3 =

B组　变式口算题

下表是小丽收集的12名同学期末考试的数学成绩。

编号	成绩/分	编号	成绩/分	编号	成绩/分	编号	成绩/分
01	87	04	90	07	93	10	91
02	95	05	100	08	96	11	88
03	84	06	92	09	55	12	79

1. 这些同学中最好成绩是(　　)分，最差成绩是(　　)分。这两个成绩相差(　　)分。
2. 如果成绩在85分或85分以上为优秀，60分以下为不及格，那么这12名同学中有(　　)位同学的成绩达到优秀，有(　　)位同学的成绩不及格。

荣德基星级口算天天练

关注微信公众号“教辅资料站”获取更多学习资料

练习3 习题课

用时：____分____秒 错误：　个

A组 常规口算题

40 ×13 =	110 ×7 =	1.3 +2.6 =
75 ÷5 =	720 ÷3 =	4.4 −3.5 =
88 ×2 =	38 ×20 =	6.7 −1.7 =
27 ×4 =	81 ÷3 =	5.8 −2.9 =
609 ÷3 =	51 ×5 =	0.4 +7.2 =
14 ×30 =	42 ×20 =	0.6 +9.1 =
848 ÷8 =	310 ×4 =	9.2 −1.4 =
202 ×4 =	211 ×7 =	3.8 +4.2 =
123 ×4 =	760 ÷2 =	3.6 −2.9 =
816 ÷8 =	95 ×5 =	6.3 −5.5 =
92 ×4 =	23 ×4 =	7.5 −4.3 =
19 ×30 =	160 ÷5 =	2.5 +2.8 =
208 ÷4 =	450 ×2 =	3.6 −1.5 =
248 ×2 =	78 ×4 =	4.7 +1.8 =
170 ×4 =	780 ÷6 =	0.7 +5.5 =
260 ×2 =	12 ×80 =	3.6 −1.7 =

B组 变式口算题

下表是小华同学调查的本班9名男生的体重情况(年龄分别为9岁或10岁)。

序号	体重/千克	序号	体重/千克	序号	体重/千克
1	34	4	33	7	30
2	33	5	31	8	36
3	24	6	29	9	32

1. 这9名男生中体重最重的是(　　)千克,最轻的是(　　)千克,相差(　　)千克。

2. 我国正常儿童9~10岁的标准体重在27~35千克之间,这些同学中体重不标准的有(　　)个。

荣德基星级口算天天练

关注微信公众号“教辅资料站”获取更多学习资料

第九单元口算能力测试

用时：____分____秒　错误：　个

A组 常规口算题

14 ×20 =	3.8 −1.9 =	0.4 +1.2 =
94 ×2 =	0.6 +2.6 =	1.1 +1.8 =
87 ÷3 =	1.7 +3.4 =	4.4 +5.5 =
27 ×20 =	7.4 −2.3 =	6.6 −4.6 =
369 ÷3 =	5.8 −5.6 =	2.9 −0.5 =
321 ×3 =	4.6 −1.6 =	3.1 −0.2 =
427 ÷7 =	0.3 +5.7 =	1.5 −0.3 =
35 ×5 =	0.2 +3.4 =	1.8 +3.6 =
56 ÷4 =	8.9 −7.7 =	2.3 +5.7 =
92 ×40 =	4.1 +5.1 =	9.3 −3.6 =
47 ×6 =	7.1 +1.1 =	4.3 +1.2 =
260 ×3 =	4.6 −2.3 =	5.8 −1.6 =
408 ÷8 =	5.5 +1.2 =	3.6 +1.7 =
131 ×2 =	3.3 −1.6 =	3.3 −2.2 =
49 ×7 =	4.5 +1.6 =	5.8 −2.2 =
106 ×5 =	3.4 −1.7 =	4.7 +1.9 =

B组 变式口算题

下面是三(1)班学生的作业成绩。

(单位:分)

90	84	98	100	82	59
89	70	85	79	97	88
87	99	81	85	75	92
78	82	91	94	76	69
95	65	86	66	83	98

1. 把左面的数据按分数分类,填一填。

分数	90 ~ 100	70 ~ 89	60 ~ 69	60 以下	合计
等级	A	B	C	D	
人数					

2. 这些学生的成绩最好的是(　　)分。

3. 观察上面的表格,分数等级在B及B以上的学生有(　　)人。

荣德基星级口算天天练

关注微信公众号“教辅资料站”获取更多学习资料

难易等级：

练习1 两位数乘两位数

用时：____分____秒　错误：　个

A组 常规口算题

18 ×40 =	54 ×20 =	14 ×5 ×5 =
23 ×7 =	15 ×5 =	17 ×8 +4 =
17 ×60 =	55 ×2 =	12 ×5 ×8 =
148 ×2 =	39 ×20 =	17 ×2 +66 =
75 ×2 =	234 ×2 =	12 ×3 ×2 =
83 ×3 =	63 ×20 =	16 ×5 ×9 =
80 ×90 =	96 ×2 =	51 ×2 −52 =
12 ×80 =	80 ×20 =	33 ×3 −45 =
117 ×3 =	55 ×4 =	35 ×2 ×7 =
25 ×30 =	611 ×4 =	54 ×3 −62 =
33 ×30 =	39 ×10 =	44 ×2 +12 =
47 ×2 =	58 ×20 =	45 ×2 ×6 =
512 ×4 =	7 ×33 =	73 ×3 +11 =
62 ×2 =	81 ×4 =	62 ×10 −310 =
77 ×2 =	13 ×70 =	55 ×2 ×7 =
64 ×20 =	348 ×2 =	71 ×4 −84 =

B组 变式口算题

1. 用竖式计算。

70 ×38 =　　48 ×56 =　　37 ×80 =　　78 ×43 =

2. 学校有24个足球，排球的个数是足球的2倍，篮球的个数是排球的3倍，学校有篮球(　　)个。

荣德基星级口算天天练

关注微信公众号“教辅资料站”获取更多学习资料

练习2　千米和吨

用时：____分____秒　错误：　个

A组　常规口算题

27 ×30 =	85 ×2 =	7000 千克 =（　　）吨
27 ×5 =	33 ×30 =	8 千米 =（　　）米
40 ×13 =	45 ×20 =	6 吨 =（　　）千克
121 ×4 =	314 ×2 =	3 米 =（　　）厘米
51 ×40 =	67 ×2 =	7 千克 =（　　）克
39 ×2 =	804 ×3 =	5000 米 =（　　）千米
26 ×4 =	71 ×40 =	700 厘米 =（　　）米
23 ×30 =	420 ×2 =	3 吨 =（　　）千克
512 ×3 =	13 ×60 =	8000 千克 =（　　）吨
76 ×3 =	24 ×30 =	5 米 =（　　）分米
78 ×20 =	47 ×4 =	7000 克 =（　　）千克
119 ×4 =	50 ×14 =	3 千米 =（　　）米
11 ×70 =	22 ×20 =	7 吨 =（　　）千克
12 ×80 =	56 ×3 =	6000 米 =（　　）千米
408 ×3 =	43 ×30 =	8 米 =（　　）厘米
99 ×2 =	322 ×4 =	2000 千克 =（　　）吨

荣德基星级口算天天练

B组　变式口算题

1. 星星小学开展“我爱班级，净化校园”活动。如果每人每月回收废纸2千克，照这样计算，三（1）班的50名同学10个月能回收废纸（　　）千克，合（　　）吨。

2. 学校组织三年级小朋友去公园游玩，汽车从学校出发，8分钟到达公园，汽车平均每分钟行驶500米，学校到公园有（　　）千米。

3. 用载重量为4吨的卡车，6次可以运完一批货物，如果改用载重量为8000千克的卡车运，需要运（　　）次就能运完。

关注微信公众号“教辅资料站”获取更多学习资料

练习3 解决问题的策略

用时：____分____秒 错误：　个

A组 常规口算题

40 ×5 =	320 ÷4 =	420 +150 −230 =
98 ÷7 =	42 ×6 =	16 ×4 +18 =
804 ÷2 =	130 ×5 =	360 ÷4 −45 =
42 ×3 =	81 ×4 =	360 −150 −40 =
45 ÷3 =	26 ×30 =	720 ÷9 ×4 =
23 ×20 =	480 ÷3 =	12 ×5 ×11 =
92 ×2 =	214 ×4 =	420 ÷7 ÷3 =
24 ×4 =	37 ×20 =	480 −150 +70 =
48 ×20 =	310 ×3 =	25 ×4 ×8 =
459 ÷9 =	324 ÷3 =	360 ÷9 ÷2 =
168 ÷4 =	35 ×4 =	17 +253 −100 =
140 ×3 =	121 ×4 =	36 ×2 +18 =
606 ×8 =	57 ×3 =	48 ÷3 +15 =
82 ×2 =	633 ×3 =	75 ÷5 +65 =
55 ×20 =	25 ×4 =	17 ×2 ×2 =
136 ×2 =	450 ÷3 =	435 +65 +135 =

B组 变式口算题

1. 学校舞蹈队有女生 42 人，男生比女生少 18 人。舞蹈队一共有(　　)人。

2. 小华一家开车去相距 336 千米的姥姥家，汽车平均每小时行驶 65 千米，行驶 3 小时还剩下(　　)千米。

3. 一个足球 38 元，一个篮球 35 元。买 4 个足球和 1 个篮球一共(　　)元。买 2 个篮球比 1 个足球多花(　　)元。

4. 超市运来花生油 28 箱，大豆油的箱数是花生油的 2 倍。大豆油和花生油一共有(　　)箱，大豆油比花生油多(　　)箱。

荣德基星级口算天天练

关注微信公众号“教辅资料站”获取更多学习资料

练习4　混合运算

用时：____分____秒　错误：　个

A组　常规口算题

72 ×20 =	480 ÷8 ÷2 =	560 ÷8 −34 =
113 ×3 =	540 ÷(2 ×3) =	280 +35 ×20 =
48 ÷3 =	30 ×5 ×4 =	15 ×4 ×30 =
160 ×4 =	(36 −24) ×6 =	250 ÷(18 −13) =
76 ×3 =	49 +12 ×3 =	37 +540 ÷6 =
47 ×3 =	540 −(220 −90) =	42 ×5 ÷7 =
27 ×30 =	36 ×2 ÷9 =	34 ×2 −51 =
108 ×5 =	(55 −15) ×12 =	74 ×(5 ×4) =
440 ÷2 =	420 ÷(58 −51) =	(15 +14) ×30 =
42 ×4 =	44 +150 ×3 =	540 ÷9 ÷2 =
63 ×30 =	510 −16 ×30 =	360 ÷(3 ×2) =
35 ×4 =	(428 −128) ÷6 =	490 ÷7 ÷7 =
426 ÷6 =	64 +24 ×5 =	630 ÷(3 ×3) =
95 ×2 =	25 ×4 −37 =	546 −(45 +175) =
300 ÷5 =	210 ÷7 ÷2 =	366 ÷3 −14 =
15 ×50 =	12 ×5 ×13 =	12 ×50 ÷3 =

B组　变式口算题

1. 脱式计算。

476 −(156 +127)　　36 ×(142 −81)　　436 +567 ÷7

2. 工程队修一条长 830 米的公路，修了 3 天，平均每天修 85 米，还剩下(　　)米没修。列式为_____。

3. 三年级学生去植树，计划一共植 420 棵，现在已经植了 120 棵，剩下的要在 6 天内完成，平均每天至少要植(　　)棵。列式为_____。

荣德基星级口算天天练

关注微信公众号“教辅资料站”获取更多学习资料

练习5 年、月、日

用时：____分____秒 错误：　个

A组 常规口算题

17 ×4 =	◆ 用 24 时记时法表示。	◆ 计算经过的时间。
28 ×20 =	下午 1 时(　　)	7:00 ~ 17:00(　　)
72 ÷6 =	上午 8 时(　　)	8:30 ~ 15:30(　　)
112 ×4 =	上午 7:30(　　)	上午 8 时 ~ 下午 5 时(　　)
306 ÷3 =	下午 3:30(　　)	9:00 ~ 17:30(　　)
56 ×3 =	下午 5:25(　　)	10:00 ~ 20:00(　　)
84 ÷4 =	晚上 8:50(　　)	5:30 ~ 10:30(　　)
78 ×4 =	早上 5:00(　　)	6:00 ~ 16:30(　　)
28 ×30 =	上午 8:45(　　)	上午 10 时 ~ 晚上 10 时(　　)
56 ×4 =	中午 12:00(　　)	7:00 ~ 16:30(　　)
366 ÷2 =	下午 6 时(　　)	8:00 ~ 20:00(　　)
78 ×3 =	下午 4:25(　　)	9:30 ~ 21:30(　　)
89 ×5 =	晚上 11:40(　　)	上午 9 时 ~ 晚上 8 时(　　)
488 ÷8 =	上午 10 时(　　)	13:00 ~ 23:30(　　)
211 ×6 =	下午 3:38(　　)	12:00 ~ 20:00(　　)
316 ×3 =	晚上 10:30(　　)	上午 5 时 ~ 下午 7 时(　　)

B组 变式口算题

1. 连一连。

2014 年	1800 年
平年	
1400 年	2200 年
闰年	
2016 年	2020 年

2. 王春每天到校的时间是 7:24，她从家出发的时间是 7:15，每分钟走 65 米，王春家与学校相距(　　)米。

3. 下面是某快餐店的营业时间牌。先仔细观察，再解决问题。

营业时间	
早上	6:30 ~ 8:30
中午	11:00 ~ 2:00
晚上	5:30 ~ 7:30

(1) 这家快餐店早上的营业时间为(　　)，全天的营业时间为(　　)。

(2) 小军 14:30 经过这家快餐店，他能吃到饭吗？(　　)

荣德基星级口算天天练

关注微信公众号“教辅资料站”获取更多学习资料

练习6　长方形和正方形的面积

用时：____分____秒　错误：　个

A组　常规口算题

600 平方分米 =（　　）平方米　　100 平方分米 =（　　）平方米

700 平方厘米 =（　　）平方分米　　900 平方分米 =（　　）平方米

5 平方米 =（　　）平方分米　　1700 平方厘米 =（　　）平方分米

30 平方分米 =（　　）平方厘米　　32 平方分米 =（　　）平方厘米

9 平方米 =（　　）平方分米　　48 平方米 =（　　）平方分米

5500 平方分米 =（　　）平方米　　1 平方分米 =（　　）平方厘米

16 平方分米 =（　　）平方厘米　　3 平方米 =（　　）平方分米

90 平方米 =（　　）平方分米　　26 平方分米 =（　　）平方厘米

8 平方分米 =（　　）平方厘米　　8800 平方分米 =（　　）平方米

200 平方厘米 =（　　）平方分米　　24 平方米 =（　　）平方分米

1400 平方分米 =（　　）平方米　　5000 平方厘米 =（　　）平方分米

300 平方厘米 =（　　）平方分米　　200 平方分米 =（　　）平方米

25 平方米 =（　　）平方分米　　7200 平方厘米 =（　　）平方分米

1000 平方厘米 =（　　）平方分米　　18 平方分米 =（　　）平方厘米

80 平方分米 =（　　）平方厘米　　4000 平方分米 =（　　）平方米

4 平方分米 =（　　）平方厘米　　3500 平方厘米 =（　　）平方分米

B组　变式口算题

1. 下面是用面积为 1 平方厘米的正方形拼成的图形，求出它们的周长和面积。



周长：（　　）厘米　　面积：（　　）平方厘米

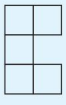

周长：（　　）厘米　　面积：（　　）平方厘米

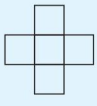

周长：（　　）厘米　　面积：（　　）平方厘米

2. 刘爷爷在一块长 9 米、宽 4 米的长方形空地上种桃树，平均每棵桃树占地 6 平方米，这块空地一共能种（　　）棵桃树。

荣德基星级口算天天练
关注微信公众号“教辅资料站”获取更多学习资料

练习7 分数的初步认识（二）

用时：____分____秒 错误：　个

A组 常规口算题

$\frac{3}{4}$ ◯ $\frac{1}{4}$

$\frac{1}{3}$ ◯ $\frac{1}{4}$

$\frac{6}{9}$ ◯ $\frac{8}{9}$

$\frac{1}{6}$ ◯ $\frac{1}{3}$

$\frac{1}{8}$ ◯ $\frac{1}{9}$

$\frac{4}{5}$ ◯ $\frac{3}{5}$

$\frac{1}{4}$ ◯ $\frac{1}{7}$

$\frac{1}{5}$ ◯ $\frac{1}{8}$

$\frac{4}{6}$ ◯ $\frac{4}{6}$

$\frac{1}{9}$ ◯ $\frac{1}{4}$

$\frac{2}{3}-\frac{1}{3}=$

$\frac{2}{4}+\frac{1}{4}=$

$\frac{3}{5}+\frac{1}{5}=$

$\frac{5}{6}-\frac{3}{6}=$

$\frac{6}{7}-\frac{5}{7}=$

$\frac{3}{8}+\frac{4}{8}=$

$\frac{2}{9}+\frac{3}{9}=$

$\frac{6}{7}-\frac{2}{7}=$

$\frac{1}{6}+\frac{4}{6}=$

$\frac{2}{8}+\frac{4}{8}=$

$\frac{5}{10}-\frac{1}{10}=$

$\frac{1}{4}+\frac{2}{4}=$

$\frac{3}{5}-\frac{1}{5}=$

$\frac{2}{6}+\frac{3}{6}=$

$\frac{4}{7}-\frac{1}{7}=$

$\frac{5}{8}-\frac{3}{8}=$

$\frac{4}{9}+\frac{4}{9}=$

$\frac{2}{10}+\frac{7}{10}=$

$\frac{1}{3}+\frac{1}{3}=$

$\frac{1}{4}+\frac{1}{4}=$

$\frac{7}{8}-\frac{5}{8}=$

$\frac{6}{9}-\frac{3}{9}=$

$\frac{1}{10}+\frac{7}{10}=$

$\frac{2}{8}+\frac{1}{8}=$

B组 变式口算题

1. 7分米 = $\frac{(\quad)}{(\quad)}$米　　3角 = $\frac{(\quad)}{(\quad)}$元　　5厘米 = $\frac{(\quad)}{(\quad)}$分米

8角 = $\frac{(\quad)}{(\quad)}$元　　6分米 = $\frac{(\quad)}{(\quad)}$米　　4角 = $\frac{(\quad)}{(\quad)}$元

2. 先分一分，再写算式。

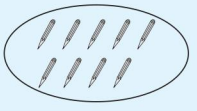

这些铅笔的$\frac{2}{3}$是多少支？

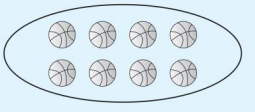

这些篮球的$\frac{3}{4}$是多少个？

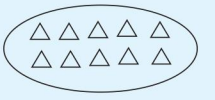

这些△的$\frac{3}{5}$是多少个？

荣德基星级口算天天练

关注微信公众号“教辅资料站”获取更多学习资料

练习8　小数的初步认识

用时：____分____秒　错误：　个

A组　常规口算题

◆ 比较大小。

0.4 ◯ 0.7

2.3 ◯ 2.1

6.4 ◯ 4.6

4.7 ◯ 5.1

4.3 ◯ 4.1

2.8 ◯ 8.2

3.5 ◯ 2.4

6.4 ◯ 6.6

8.7 ◯ 9.7

8.5 ◯ 5.8

0.9 ◯ 1.1

4.9 ◯ 9.4

0.7 +0.1 =	1.8 −0.6 =	4.5 +2.3 =
6.2 −3.1 =	4.5 −3.1 =	5.8 +1.3 =
2.4 +1.5 =	4.1 −3.9 =	5.6 +1.7 =
7.4 +1.2 =	6.4 −1.7 =	8.5 +1.3 =
9.8 −1.7 =	3.3 −1.4 =	5.6 −1.6 =
8.9 −2.3 =	0.4 −0.3 =	3.9 −1.7 =
5.8 +1.4 =	3.1 +1.4 =	4.9 −2.7 =
5.1 +4.6 =	2.3 −0.9 =	0.8 +1.3 =
5.7 −3.6 =	4.7 +1.2 =	9.2 −1.4 =
5.7 −1.6 =	4.7 +1.5 =	9.2 −1.3 =
3.2 +1.5 =	4.2 −2.8 =	

荣德基星级口算天天练

B组　变式口算题

1. 先写出小数，再比较大小。

1元3角　9角　　7角　2元3角　　3元4角　4元3角

(　　)元 ◯ (　　)元　(　　)元 ◯ (　　)元　(　　)元 ◯ (　　)元

2. 妈妈买回6.5米布，做上衣用去2.4米，做裤子用去1.3米，做上衣和裤子一共用去(　　)米，还剩下(　　)米。

3. 在□里填上合适的数。

0.□ >0.□　　□.5 >4.□　　3.□ >□.9

关注微信公众号“教辅资料站”获取更多学习资料

练习9 数据的收集和整理（二）

用时：___分___秒 错误：　个

A组 常规口算题

56 ÷4 =	150 ×3 =	4.5 −2.3 =
23 ×30 =	11 ×80 =	1.4 +0.9 =
24 ×5 =	51 ÷3 =	4.9 −0.3 =
21 ×40 =	25 ×4 =	4.4 +0.4 =
98 ÷2 =	30 ×62 =	8.6 −7.7 =
126 ×2 =	21 ×5 =	7.4 +1.8 =
819 ÷9 =	39 ÷3 =	3.8 −1.2 =
160 ×4 =	560 ÷8 =	5.6 +1.3 =
74 ×4 =	107 ×5 =	2.1 −0.9 =
609 ÷3 =	405 ÷5 =	4.5 +3.8 =
408 ×4 =	170 ×3 =	0.2 +0.7 =
48 ×5 =	18 ×30 =	9.4 −5.1 =
325 ×2 =	990 ÷3 =	3.4 −2.7 =
74 ÷2 =	119 ×4 =	0.6 +0.9 =
848 ÷8 =	220 ÷4 =	8.9 −2.8 =
26 ×30 =	312 ×3 =	8.7 −1.8 =

B组 变式口算题

红星小学开展环保活动，倡议每个学生收集废电池。下面是三(1)班各环保小组一个月收集废电池的数量。（单位：节）

第1组	第2组	第3组	第4组	第5组	第6组	第7组	第8组
9	9	11	10	8	10	9	11

1. 这个班级一个月一共收集废电池(　　)节。

2. 每收集1节废电池可以减少2平方米的土地被污染。三(1)班这次的环保活动可以减少(　　)平方米的土地被污染。

荣德基星级口算天天练

关注微信公众号“教辅资料站”获取更多学习资料

口算能力期末综合测评（一）

用时：____分____秒　错误：　个

11 ×30 =	0.1 +3.1 =	（79 −30）÷7 =
208 ×4 =	2.1 −0.1 =	6 ×20 −50 =
62 ×4 =	1.1 +1.8 =	6 ×（40 −30）=
966 ÷3 =	4.5 −3.5 =	30 ×2 ×8 =
510 ×6 =	2.7 +1.6 =	7 ×（25 −5）=
91 ×7 =	3.4 +4.3 =	43 +17 ×2 =
20 ×41 =	5.6 −1.1 =	270 +（36 −20）=
369 ÷3 =	8.9 +0.1 =	144 −22 ×2 =
407 ×6 =	9.3 −5.6 =	90 ÷（36 −30）=
49 ×3 =	4.4 +0.5 =	9 ×60 ÷3 =
484 ÷4 =	2.8 −1.4 =	186 −46 +23 =
90 ×20 =	3.1 +2.1 =	（79 −70）×11 =
26 ×30 =	5.5 +2.3 =	25 ×2 ×7 =
189 ÷9 =	6.7 −5.9 =	（23 −13）×20 =
67 ×4 =	4.9 −2.4 =	46 ×2 −42 =
18 ×6 =	3.3 +2.3 =	（70 −30）×70 =
210 ×9 =	4.9 +1.1 =	400 ÷5 ÷4 =
82 ×30 =	5 −2.5 =	（61 +17）÷2 =
350 ÷7 =	3.3 +4.9 =	450 ÷（21 −12）=
414 ×2 =	7.2 −2.2 =	56 ×2 −42 =
405 ÷5 =	3.8 +4.1 =	86 ÷2 +34 =
92 ×4 =	5.2 −3.5 =	6 ×（21 −5）=
510 ÷5 =	8.5 +1.4 =	12 ×5 ÷3 =
510 ×2 =	9.6 −6.6 =	46 −12 ×3 =
328 ÷4 =	7.3 +1.8 =	197 −36 +23 =
245 ×2 =	5.2 −3.4 =	47 ×3 −21 =

荣德基星级口算天天练

关注微信公众号“教辅资料站”获取更多学习资料

口算能力期末综合测评（二）

用时：____分____秒 错误：　个

35 ×2 =	3.2 −1.2 =	18 平方米 =（　　）平方分米
86 ×2 =	0.3 +1.6 =	22 平方分米 =（　　）平方厘米
150 ×4 =	6.2 +1.8 =	23 平方米 =（　　）平方分米
45 ×5 =	3.8 −1.4 =	5 吨 =（　　）千克
808 ÷8 =	4.9 −0.5 =	1600 平方厘米 =（　　）平方分米
108 ×2 =	2.1 +1.5 =	3200 平方分米 =（　　）平方米
80 ×50 =	1.1 +6.5 =	500 平方分米 =（　　）平方米
842 ÷2 =	4.4 −3.3 =	5000 米 =（　　）千米
309 ×3 =	2.2 +6.6 =	46 平方米 =（　　）平方分米
32 ×30 =	7.6 −4.6 =	54 平方分米 =（　　）平方厘米
32 ×5 =	9.3 +0.5 =	70 平方米 =（　　）平方分米
480 ÷3 =	8.1 −2.1 =	8 平方分米 =（　　）平方厘米
92 ×4 =	7.2 +1.8 =	7000 千克 =（　　）吨
13 ×8 =	8.8 −0.4 =	88 平方分米 =（　　）平方厘米
69 ×3 =	5.5 +4.2 =	4300 平方分米 =（　　）平方米
114 ×2 =	6.4 −3.5 =	5900 平方厘米 =（　　）平方分米
140 ÷5 =	1.1 +2.9 =	8 千米 =（　　）米
217 ÷7 =	5.3 +0.7 =	200 平方厘米 =（　　）平方分米
27 ×20 =	3.3 +2.2 =	8000 平方分米 =（　　）平方米
324 ÷4 =	0.3 +9.6 =	9600 平方分米 =（　　）平方米
16 ×30 =	1.8 −1.7 =	3 吨 =（　　）千克
720 ÷8 =	5.7 −5.5 =	57 平方米 =（　　）平方分米
123 ×3 =	2.9 +3.1 =	38 平方分米 =（　　）平方厘米
273 ÷3 =	4.5 −1.9 =	64 平方米 =（　　）平方分米
216 ÷4 =	3.2 +4.6 =	9000 米 =（　　）千米
27 ×30 =	7.3 −4.5 =	1200 平方厘米 =（　　）平方分米

荣德基 星级口算天天练

关注微信公众号“教辅资料站”获取更多学习资料

口算能力期末综合测评（三）

用时：____分____秒　错误：　个

390 ×12 =
17 ×5 =
26 ÷2 =
630 ÷9 =
21 ×40 =
78 ÷3 =
140 ×3 =
804 ×2 =
33 ×20 =
84 ×4 =
31 ×50 =
455 ÷5 =
91 ×7 =
546 ÷6 =
26 ×20 =
74 ÷2 =
142 ×2 =
306 ÷6 =
43 ×20 =
284 ÷4 =
24 ×7 =
369 ÷9 =
81 ×30 =
107 ×6 =
810 ×9 =
246 ×2 =

◆ 求下列长方形的周长或面积。

长 =16 厘米，宽 =4 厘米，
面积 =（　　）平方厘米
长 =20 厘米，宽 =12 厘米，
面积 =（　　）平方厘米
长 =14 分米，宽 =7 分米，
面积 =（　　）平方分米
长 =20 米，宽 =10 米，
周长 =（　　）米
长 =31 米，宽 =20 米，
面积 =（　　）平方米
长 =25 分米，宽 =9 分米，
面积 =（　　）平方分米
长 =17 分米，宽 =13 分米，
周长 =（　　）分米
长 =13 厘米，宽 =9 厘米，
面积 =（　　）平方厘米
长 =20 米，宽 =18 米，
面积 =（　　）平方米
长 =31 分米，宽 =13 分米，
周长 =（　　）分米
长 =16 厘米，宽 =8 厘米，
面积 =（　　）平方厘米
长 =41 米，宽 =30 米，
面积 =（　　）平方米

◆ 求下列正方形的周长或面积。

边长 =3 厘米，
面积 =（　　）平方厘米
边长 =20 米，
面积 =（　　）平方米
边长 =17 分米，
周长 =（　　）分米
边长 =5 米，
面积 =（　　）平方米
边长 =40 分米，
面积 =（　　）平方分米
边长 =22 厘米，
周长 =（　　）厘米
边长 =7 米，
面积 =（　　）平方米
边长 =80 厘米，
面积 =（　　）平方厘米
边长 =26 分米，
周长 =（　　）分米
边长 =9 米，
面积 =（　　）平方米
边长 =112 厘米，
周长 =（　　）厘米
边长 =6 米，
面积 =（　　）平方米

荣德基星级口算天天练

关注微信公众号“教辅资料站”获取更多学习资料

口算能力期末综合测评（四）

用时：___分___秒 错误：　个

16 ×4 =	1.5 +1.6 =	10 +11 ×2 =
35 ×20 =	4.2 −2.1 =	24 −55 ÷5 =
108 ×5 =	6.3 −4.3 =	(34 −14) ÷4 =
60 ×90 =	2.8 +0.7 =	42 −12 ×2 =
12 ×30 =	5.3 +1.6 =	5 ×(24 −12) =
85 ÷5 =	4.6 −0.8 =	420 ÷7 ÷3 =
91 ×7 =	5.5 +2.1 =	86 −77 ÷7 =
505 ÷5 =	6.5 −4.8 =	64 +12 ×3 =
311 ×4 =	7.1 +0.9 =	(56 −16) ×4 =
48 ×20 =	9.3 −1.2 =	70 +12 ×3 =
960 ÷3 =	7.5 −2.4 =	69 ÷3 +12 =
44 ×3 =	4.4 +4.4 =	320 ÷(20 −12) =
105 ÷5 =	5.8 −4.9 =	60 ÷4 −15 =
35 ×5 =	4.5 −2.5 =	450 −130 +160 =
309 ÷3 =	1.6 +1.4 =	60 ×2 +10 =
80 ×12 =	0.7 +2.1 =	78 ÷2 +10 =
108 ×2 =	3.9 −3.6 =	(79 −20) ×2 =
427 ÷7 =	5.6 +2.5 =	(43 −20) ×3 =
24 ×6 =	3.6 +5.2 =	60 ÷5 ×2 =
720 ÷8 =	2.2 +6.9 =	438 +(125 +75) =
23 ×30 =	7.7 −2.8 =	77 ÷7 ×2 =
900 ÷6 =	5.4 −1.3 =	44 +11 ×2 =
123 ×2 =	7.5 +0.4 =	60 ×60 ÷6 =
840 ÷8 =	6.1 +1.7 =	36 ×(83 −63) =
236 ×2 =	7.4 −1.2 =	800 ÷8 +200 =
17 ×40 =	5.2 −2.8 =	(70 −20) ÷5 =

荣德基星级口算天天练

关注微信公众号“教辅资料站”获取更多学习资料

参考答案

第一单元 练习1（第1页）

A组

72	1800	248
720	60	680
5600	0	1200
750	480	900
92	560	370
920	880	3000
68	2100	164
1200	460	760
430	450	2400
686	432	990
85	1800	210
850	390	1700
260	84	99
780	363	844
2800	4500	1500
246	700	81

B组

1. 120　600　180　150

2. 800

练习2（第2页）

A组

369	69	68
144	672	246
2100	3000	112
129	256	5600
170	390	147
480	380	1800
3200	105	219
94	2700	270
168	368	368
230	920	1500
4500	90	2525
468	848	1688
230	588	150
153	5600	345
1260	0	85
4500	470	360

B组

1. $\begin{array}{r} 34 \\ \times 21 \\ \hline 34 \\ 68 \\ \hline 714 \end{array}$ …(1) 天吃了(34)只害虫
…(20) 天吃了(680)只害虫
…(21) 天吃了(714)只害虫

2. $32\times13=416$

$\begin{array}{r} 32 \\ \times 13 \\ \hline 96 \\ 32 \\ \hline 416 \end{array}$ 验算：$\begin{array}{r} 13 \\ \times 32 \\ \hline 26 \\ 39 \\ \hline 416 \end{array}$

$23\times12=276$

$\begin{array}{r} 23 \\ \times 12 \\ \hline 46 \\ 23 \\ \hline 276 \end{array}$ 验算：$\begin{array}{r} 12 \\ \times 23 \\ \hline 36 \\ 24 \\ \hline 276 \end{array}$

练习3（第3页）

A组

48	84	60
360	150	36
3500	159	52
98	3200	99
690	300	100
130	76	69
80	4200	79
232	933	34
2400	189	29
135	624	78
369	4800	70
3600	78	100
170	1644	61
588	530	41
1244	72	41
470	816	60

B组

1. $47\times12=564$

$\begin{array}{r} 47 \\ \times 12 \\ \hline 94 \\ 47 \\ \hline 564 \end{array}$ 验算：$\begin{array}{r} 12 \\ \times 47 \\ \hline 84 \\ 48 \\ \hline 564 \end{array}$

$35\times37=1295$

$\begin{array}{r} 35 \\ \times 37 \\ \hline 245 \\ 105 \\ \hline 1295 \end{array}$ 验算：$\begin{array}{r} 37 \\ \times 35 \\ \hline 185 \\ 111 \\ \hline 1295 \end{array}$

$28\times64=1792$

$\begin{array}{r} 28 \\ \times\ 64 \\ \hline 112 \\ 168 \\ \hline 1792 \end{array}$ 验算：$\begin{array}{r} 64 \\ \times\ 28 \\ \hline 512 \\ 128 \\ \hline 1792 \end{array}$

2. 775

练习4（第4页）

A组

86	168	28
4200	560	37
248	94	90
460	339	43
135	2800	34
3200	368	42
60	240	45
170	396	36
576	180	110
2700	70	173
345	304	74
88	5400	63
1600	852	87
328	918	40
565	230	64
642	634	140

B组

1. 1400　1428

2. 220　660

3. 490

练习5（第5页）

A组

128	219	640
96	4800	30
5600	84	280
360	76	180

荣德基星级口算天天练

请沿此虚线裁剪下使用

关注微信公众号“教辅资料站”获取更多学习资料

213	660	38
4500	228	250
369	6300	76
48	630	180
460	280	720
450	342	30
4200	1280	300
342	98	420
135	840	400
480	933	100
159	1509	560
1204	720	190

B 组

1. $49\times20=980$ $70\times38=2660$

$$\begin{array}{r} 49 \\ \times\ 20 \\ \hline 980 \end{array} \qquad \begin{array}{r} 38 \\ \times\ 70 \\ \hline 2660 \end{array}$$

$69\times40=2760$ $35\times50=1750$

$$\begin{array}{r} 69 \\ \times\ 40 \\ \hline 2760 \end{array} \qquad \begin{array}{r} 35 \\ \times\ 50 \\ \hline 1750 \end{array}$$

2. 1360

练习 6（第 6 页）

A 组

68	156	32
360	880	180
550	484	630
5600	336	200
268	55	100
1150	2700	540
94	98	40
4500	660	99
279	1244	300
840	3200	200
726	375	100
96	225	480
1800	690	100
5656	1248	250
990	814	490
252	750	200

B 组

1. 1200
2. 1920
3. 420

练习 7（第 7 页）

A 组

129	162	180
369	141	945
84	360	32
1628	800	810
480	3500	100
288	288	630
135	840	300
5600	208	400
600	4800	480
480	4256	290
576	990	50
5400	945	720
434	816	200
340	1236	200
830	255	360
31	3036	100

B 组

1. 2100 2. 800
3. 9000 4. 1500

练习 8（第 8 页）

A 组

68	126	75
880	750	630
824	933	300
760	680	1200
81	188	600
852	272	630
900	144	100
332	156	420
3000	378	440
740	870	900
192	1800	200
76	960	95
273	4236	560
1560	190	81
565	142	100
550	351	540

B 组

1. $31\times27=837$ $45\times30=1350$

$$\begin{array}{r} 31 \\ \times\ 27 \\ \hline 217 \\ 62 \\ \hline 837 \end{array} \qquad \begin{array}{r} 45 \\ \times\ 30 \\ \hline 1350 \end{array}$$

2. 400
3. 720

练习 9（第 9 页）

A 组

363	900	78
70	57	300
690	960	268
96	368	81
816	272	88
720	1550	960
195	86	135
900	219	440
900	1240	432
276	375	96
834	178	1505
780	850	380
112	428	660
372	112	642
960	980	108
621	2555	1020

B 组

$36\times24=864$ $75\times75=5625$

$$\begin{array}{r} 36 \\ \times 24 \\ \hline 144 \\ 72 \\ \hline 864 \end{array} \qquad \begin{array}{r} 75 \\ \times 75 \\ \hline 375 \\ 525 \\ \hline 5625 \end{array}$$

$43\times47=2021$ $38\times32=1216$

$$\begin{array}{r} 43 \\ \times 47 \\ \hline 301 \\ 172 \\ \hline 2021 \end{array} \qquad \begin{array}{r} 38 \\ \times 32 \\ \hline 76 \\ 114 \\ \hline 1216 \end{array}$$

第一单元口算能力测试

（第 10 页）

A 组

68	98	160
870	740	80
106	570	600

请沿此虚线裁剪下使用

荣德基星级口算天天练

关注微信公众号“教辅资料站”获取更多学习资料

680	123	14
909	780	270
340	153	200
171	750	2400
372	342	230
960	612	600
238	680	720
198	129	800
96	720	890
288	228	630
780	810	450
222	600	700
930	648	80

B 组

1. (1)960　(2)135　(3)1095

2. 1200

第二单元　练习 1（第 11 页）

A 组

129	220	126
280	98	2800
92	75	78
104	492	215
86	96	520
282	285	369
1000	1200	1600
232	510	90
88	190	72
112	290	675
480	340	840
141	252	175
720	420	660
1515	2088	1260
520	450	1818
645	375	2555

B 组

1. 5000　4　6000
   8000　3　9

2. (1)千米
   (2)米
   (3)米

练习 2（第 12 页）

A 组

70	444	38
248	126	720
740	136	996
4200	2100	372
640	450	104
135	484	1612
1260	420	112
608	235	2130
840	770	6400
750	660	215
154	2888	108
340	1420	4000
168	429	524
1688	520	102
456	510	636
808	1632	1890

B 组

1. 2000　3　4000
   7000　5　2

2. (1)克
   (2)吨
   (3)千克　吨

练习 3（第 13 页）

A 组

129	88	5000
510	216	7000
255	396	400
342	460	7
144	420	6000
174	496	5
720	1644	6000
468	2024	3
305	224	9
500	215	700
6300	780	4000
3535	344	8000
920	636	6
196	780	5
237	294	800
423	132	7

B 组

1. 千米　厘米　吨
   千米　千克　厘米　千克
   吨　千米

2. 900

第二单元口算能力测试

（第 14 页）

A 组

72	570	3
141	460	7
360	212	8000
240	126	9000
232	484	7
72	2160	500
171	207	8
104	660	9
2844	315	3
234	132	7000
720	351	4
1410	208	7
2442	1830	5
288	375	6000
650	108	7
678	258	6000

B 组

1. 3000　3

2. 2000　2

3. 小汽车　5

4. 8

第三单元　练习 1（第 15 页）

A 组

5400	540	55
23	156	810
720	12	166
94	147	40
19	80	204

荣德基星级口算天天练

请沿此虚线裁剪下使用

关注微信公众号“教辅资料站”获取更多学习资料

276 5600 560
690 19 74
122 660 414
144 90 103
488 404 420
81 396 63
880 1380 485
948 62 490
51 832 900
4942 580 111
140 91 480

B 组

1. 95　28 ×2 +39 =95(元)
2. 70　49 ×2 −28 =70(元)

练习 2(第 16 页)

A 组

68 156 500
69 60 80
23 188 900
448 16 66
720 850 490
450 780 100
70 492 560
5600 26 140
920 6400 77
41 920 100
156 66 300
720 456 200
38 960 350
2088 4242 245
354 180 354
24 1248 200

B 组

1. 146
2. 47
3. (1)132　(2)88

练习 3(第 17 页)

A 组

99 184 100
188 232 420
11 540 190
260 40 300
1515 5600 630
23 144 370
810 202 245
568 480 400
19 890 189
192 19 55
640 264 540
31 510 70
5400 61 900
165 814 300
81 954 50
684 140 490

B 组

1. 295
2. 345　55
3. 68　120

第三单元口算能力测试

(第 18 页)

A 组

86 108 73
4500 990 80
80 104 490
172 38 77
520 4200 800
23 141 221
111 60 420
540 230 110
25 1680 420
288 102 115
1518 110 660
31 304 400
720 18 142
513 750 200
140 654 72
264 61 135

B 组

1. 甲
2. 172　86

第四单元 练习 1(第 19 页)

A 组

39 96 32
480 480 77
21 555 72
520 18 60
175 94 50
16 840 39
232 16 10
510 174 120
71 368 26
1221 90 160
264 450 58
203 390 320
282 91 34
880 918 128
1428 101 76
180 836 82

B 组

1. 158
2. 147　16
3. 130　47

练习 2(第 20 页)

A 组

64 920 24
141 48 60
24 246 67
770 6300 63
510 80 118
826 625 74
25 560 78
228 231 120
960 190 46
3200 249 39
20 810 115
208 3530 77
1380 302 60
140 136 89
2466 945 20
91 81 60

B 组

1. 56 +96 ÷6
=56 +16
=72
280 ÷7 +60
=40 +60
=100
73 −57 ÷3
=73 −19
=54
2. 7　3. 140　12

练习 3(第 21 页)

A 组

88 164 70
4500 12 110
159 680 117
90 234 86
336 24 50

荣德基星级口算天天练

请沿此虚线裁剪下使用

关注微信公众号“教辅资料站”获取更多学习资料

880	640	62
804	232	48
15	303	64
228	360	65
740	4800	5
336	24	48
16	368	91
3577	810	7
102	71	8
378	304	560
51	830	360

B 组

1. $(450+50)\times4$
$=500\times4$
$=2000$
$360\div(2\times3)$
$=360\div6$
$=60$
$740-(28+42)$
$=740-70$
$=670$

2. 550　3. 176

练习 4（第 22 页）

A 组

92	45	3
5400	90	186
448	220	108
80	4	7
420	8	63
3542	174	800
13	114	130
328	300	18
690	11	100
13	254	70
231	106	58
423	84	15
61	460	130
750	64	379
490	200	110
160	9	350

B 组

1. $349-128\times2$
$=349-256$
$=93$
$(571-126)\div5$
$=445\div5$
$=89$
$88\times(257-248)$
$=88\times9$
$=792$

2. <　>　>　<

3. 40

第四单元口算能力测试

（第 23 页）

A 组

86	240	4
363	9	120
36	720	578
152	500	96
690	53	850
144	9	210
110	420	100
2700	350	566
560	450	196
312	50	105
13	80	243
420	280	810
420	110	40
51	50	155
690	15	9
51	305	13

B 组

1. 30

2. 5

3. 32　53

第五单元　练习 1（第 24 页）

A 组

52	202	235
336	540	580
70	159	208
520	202	60
141	6400	452
11	92	680
112	90	2555
660	165	5400
23	232	32
3600	880	824
3530	188	630
14	380	948
620	36	120
648	954	3030
91	1688	42
4977	91	2848

B 组

1. 24　93　180
420　36　60

2. (1)9　10　10　1
(2)31　4　3
(3)6　1　5　31　6　30

练习 2（第 25 页）

A 组

42	94	67
520	18	210
132	280	800
60	345	22
248	32	8
1530	234	200
39	1420	61
255	5600	30
204	60	114
71	230	300
660	930	113
513	264	360
6300	48	10
51	232	350
1624	836	18
948	51	48

B 组

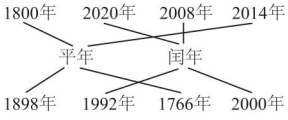

练习 3（第 26 页）

A 组

88	90	189
232	840	102
32	492	284
420	224	540

荣德基星级口算天天练

请沿此虚线裁剪下使用

关注微信公众号“教辅资料站”获取更多学习资料

129 423 440
204 4800 36
1800 42 429
330 152 3500
25 450 11
528 15 264
750 450 1240
16 680 258
235 150 13
605 456 135
71 948 294
830 91 91

B 组

1.(1)9 月 30 日
(2)2 月 29 日
(3)4 月 30 日
(4)8 月 31 日
2. 2020 2024 2028

练习 4（第 27 页）

A 组

68 150 8:30
189 33 16:20
224 812 19:30
21 6400 8:00
144 363 15:50
510 26 17:00
384 462 9:35
25 720 21:00
252 168 16:35
188 140 11:30
41 355 22:00
2008 948 11:35
380 81 8:40
2848 836 24:00（或 0:00）
201 1560

B 组

1. 下午 3:40 上午 9:25
下午 2:15
晚上 8:20 晚上 11:15
下午 6:30
2. 略。

练习 5（第 28 页）

A 组

4500 284 4 小时
34 960 8 小时
36 84 1 小时 15 分钟
376 19 12 小时
940 2400 8 小时
232 920 25 分钟
122 345 12 小时 30 分钟
513 14 12 小时
1320 3542 6 小时
192 990 9 小时
12 240 35 分钟
392 15 12 小时
1040 452 5 小时
948 352 12 小时
120 61 8 小时
152 2848

B 组

1. 7
2. 9
3. 7 小时 30 分钟
4. 9 30

练习 6（第 29 页）

A 组

51 8:30 7 小时
224 15:35 4 小时 30 分钟
14 16:00 8 小时
135 9:00 25 分钟
420 11:30 9 小时
5400 19:00 6 小时
36 21:00 9 小时
304 16:30 8 小时
450 9:25 9 小时
3555 15:20 20 分钟
17 14:00 10 小时
246 23:00 10 小时
680 7:00 1 小时
12 16:50 9 小时 30 分钟
722 23:30 5 小时
71

B 组

1.2 30 6 30 2. 能

第五单元口算能力测试

（第 30 页）

A 组

136 808 270
360 4800 8
90 108 75
369 16 666
7200 240 23
12 920 9
810 230 90
336 15 810
636 192 39
12 1530 218
234 235 70
760 55 5
203 354 420
207 640 300
945 81 13
141 832 49

B 组

1.1 45
2. 240
3.7 8
4. B

第六单元 练习 1（第 31 页）

A 组

90 600 80
260 108 22
696 18 130
720 680 168
51 400 540
192 304 900
61 46 13
1590 1299 90
13 104 1080

请沿此虚线裁剪下使用

关注微信公众号“教辅资料站”获取更多学习资料

960 900 321
960 945 278
234 1140 71
1836 104 760
24 132 82
104 680 103
109 434 575

B 组

(3) (2)

练习 2（第 32 页）

A 组

100 510 51
160 164 780
432 11 999
60 1530 800
600 24 17
154 1560 204
626 760 301
900 123 292
2760 188 960
595 31 14
15 231 2436
51 106 29
1850 107 990
403 740 70
105 856 41
896 780 1840

B 组

1. (1)平方厘米
(2)平方厘米
(3)平方米
(4)平方分米
(5)平方分米
2. 8 平方分米

练习 3（第 33 页）

A 组

70 47 126
972 510 520
600 71 70
28 600 16
954 31 160
450 108 8
11 640 45
760 420 450
402 60 300
6300 135 100
780 840 640
71 81 400
1230 852 20
276 32 105
26 1530 340
680 360 30

B 组

1. 10 14 5 6
2. 略。

练习 4（第 34 页）

A 组

60 49
120 100
150 96
96 44
26 81
72 64
18 400
96 84
880 121
54 120
270 68
1500 1600
520 200
24 25
117 24
10 88

B 组

1. 2200
2. 16 16
3. 4500
4. 81
5. 20

练习 5（第 35 页）

A 组

45 64
450 100
20 25
98 96
18 16
480 60
160 81
80 400
70 64
96 36
440 121
30 100
300 900
50 200
150 92
420

B 组

1. 17
2. 49 21
3. 3600

练习 6（第 36 页）

A 组

300 100
600 4
3 6
400 700
3 800
2 900
3000 11
700 4000
6 1500
100 1
2 3700
7 5
400 2100
1200 900
5000 800
1400 3400

荣德基 星级口算天天练

请沿此虚线裁剪下使用

关注微信公众号“教辅资料站”获取更多学习资料

B 组

1. 100　1　2. 3600

3. 256　20　400　4

练习 7（第 37 页）

A 组

500	6
400	100
7	1000
300	200
14	17
2300	43
20	9
4200	300
900	4
2	800
12	2200
400	35
6	10
7700	8
1	2
2500	3000

B 组

1. 4500　45

2. (1)16　200　(2)16　160

练习 8（第 38 页）

A 组

136	16
300	112
16	44
108	400
180	36
77	81
40	2500
128	144
84	9
750	4
22	64
440	284
1050	64
44	100
210	116

B 组

1. 204　625　507　2. 5400　54

第六单元口算能力测试

（第 39 页）

A 组

200	4400
300	1000
4	800
1	700
600	5
7	6
1400	11
2000	1900
40	7
8	1300
1100	5000
500	35
900	60
12	8
1500	9
2500	4500

B 组

1. 64　6400　32

2. 180

3. 25

第七单元　练习 1（第 40 页）

A 组

440	>	$\frac{5}{6}$
2500	>	$\frac{4}{5}$
72	>	$\frac{2}{10}$
21	=	$\frac{5}{7}$
32	<	$\frac{2}{4}$
248	>	$\frac{1}{3}$
61	<	$\frac{6}{8}$
3600	>	$\frac{9}{10}$
1020	<	0
115		$\frac{3}{4}$
12		$\frac{1}{7}$
55		$\frac{3}{8}$
231		
342		
44		
812		

B 组

$\frac{1}{2}$　$\frac{1}{5}$　$\frac{1}{3}$

$\frac{1}{3}$　$\frac{1}{4}$　$\frac{1}{3}$

练习 2（第 41 页）

A 组

36	>	$\frac{2}{3}$
288	<	$\frac{1}{4}$
63	<	$\frac{7}{8}$
246	<	$\frac{5}{9}$
332	<	$\frac{3}{7}$
680	>	$\frac{5}{6}$
168	>	$\frac{4}{5}$
4200	<	$\frac{4}{10}$
159	<	$\frac{6}{9}$
360		$\frac{7}{8}$
348		$\frac{2}{7}$
80		$\frac{6}{8}$
4000		
642		
91		

荣德基 星级口算天天练

请沿此虚线裁剪下使用

关注微信公众号“教辅资料站”获取更多学习资料

369

B 组

1. 12 ÷ 3 = 4（个）

2. 10 ÷ 5 = 2（个）

3. 12 ÷ 6 = 2（个）

4. 8 ÷ 4 = 2（只）

练习 3（第 42 页）

A 组

84 > $\frac{5}{8}$

15 > $\frac{5}{7}$

690 < $\frac{3}{9}$

248 < $\frac{3}{6}$

156 > $\frac{5}{7}$

32 > $\frac{9}{10}$

920 < $\frac{2}{9}$

348 > $\frac{6}{7}$

5400 > $\frac{3}{4}$

124 $\frac{4}{8}$

680 $\frac{2}{9}$

828 $\frac{5}{6}$

81

5600

135

814

B 组

略。

练习 4（第 43 页）

A 组

> $\frac{2}{3}$ $\frac{1}{10}$

> $\frac{2}{4}$ $\frac{2}{10}$

= $\frac{3}{4}$ $\frac{4}{10}$

> $\frac{6}{7}$ $\frac{8}{10}$

< $\frac{4}{7}$ $\frac{5}{10}$

> $\frac{3}{9}$ $\frac{4}{10}$

> $\frac{4}{6}$ $\frac{9}{10}$

< $\frac{7}{10}$ $\frac{7}{10}$

> $\frac{5}{7}$ $\frac{6}{10}$

> 0 $\frac{2}{10}$

= $\frac{5}{8}$ $\frac{5}{10}$

$\frac{2}{4}$ $\frac{3}{10}$

B 组

1. $\frac{1}{8}$ $\frac{4}{8}$ 2. $\frac{1}{9}$ $\frac{5}{9}$

练习 5（第 44 页）

A 组

$\frac{2}{10}$ < $\frac{1}{10}$

$\frac{2}{5}$ = $\frac{2}{10}$

$\frac{2}{8}$ > $\frac{9}{10}$

$\frac{2}{8}$ < $\frac{9}{10}$

$\frac{3}{4}$ < $\frac{6}{10}$

$\frac{8}{9}$ < $\frac{7}{10}$

$\frac{4}{10}$ > $\frac{8}{10}$

$\frac{3}{7}$ < $\frac{4}{10}$

$\frac{5}{6}$ > $\frac{3}{10}$

$\frac{4}{6}$ $\frac{2}{10}$

$\frac{2}{3}$ $\frac{5}{10}$

$\frac{2}{7}$ $\frac{1}{10}$

B 组

1. 8 ÷ 4 × 3 = 6（只）

2. 12 ÷ 4 × 3 = 9（条）

练习 6（第 45 页）

A 组

> $\frac{3}{4}$ $\frac{5}{10}$

> $\frac{3}{5}$ $\frac{4}{10}$

> $\frac{2}{6}$ $\frac{7}{10}$

< $\frac{3}{7}$ $\frac{6}{10}$

> $\frac{2}{3}$ $\frac{3}{10}$

< $\frac{5}{6}$ $\frac{4}{10}$

> $\frac{4}{6}$ $\frac{6}{10}$

> $\frac{3}{7}$ $\frac{5}{10}$

< $\frac{7}{8}$ $\frac{9}{10}$

< $\frac{6}{7}$ $\frac{8}{10}$

> $\frac{2}{9}$ $\frac{2}{10}$

$\frac{5}{8}$ $\frac{5}{10}$

B 组

1. 2

2. 4

3. 10

4. 32　8

第七单元口算能力测试

（第 46 页）

A 组

> $\frac{2}{3}$ $\frac{1}{10}$

< $\frac{3}{4}$ $\frac{2}{10}$

> $\frac{2}{5}$ $\frac{3}{10}$

> $\frac{2}{6}$ $\frac{5}{10}$

荣德基 星级口算天天练

请沿此虚线裁剪下使用

关注微信公众号“教辅资料站”获取更多学习资料

< $\frac{6}{7}$ $\frac{7}{10}$

> $\frac{6}{8}$ $\frac{4}{10}$

> $\frac{3}{6}$ $\frac{8}{10}$

> $\frac{2}{7}$ $\frac{4}{10}$

> $\frac{7}{8}$ $\frac{7}{10}$

< $\frac{7}{9}$ $\frac{6}{10}$

$\frac{5}{8}$ $\frac{3}{10}$

$\frac{4}{7}$ $\frac{7}{10}$

B 组

1. (1)8 ÷4 ×3 =6(个)
   (2)12 ÷4 ×3 =9(个)
   (3)16 ÷4 ×3 =12(个)
2. (1)60 ÷3 ×2 =40(分钟)
   (2)60 ÷6 ×2 =20(分钟)

第八单元 练习 1(第 47 页)

A 组

369	$\frac{3}{5}$	零点五
90	$\frac{2}{5}$	一点四
460	$\frac{5}{6}$	零点八
80	$\frac{4}{5}$	二点三
5600	$\frac{6}{7}$	三点五
351	$\frac{3}{8}$	四点六
990	$\frac{2}{7}$	零点九
26	$\frac{2}{9}$	七点三
4500	$\frac{2}{4}$	八点二
824	$\frac{5}{6}$	二点一
840	$\frac{5}{8}$	九点六
174	$\frac{7}{9}$	六点九
91		五点二
921		七点四
101		四点七
832		

B 组

1. 1 分米 4 分米 (9)分米
   $\frac{1}{10}$米 $\left(\frac{4}{10}\right)$米 $\left(\frac{9}{10}\right)$米
   0.1 米 (0.4)米 (0.9)米
2. $\frac{7}{10}$ $\frac{5}{10}$ $\frac{6}{10}$
   0.7 0.5 0.6

练习 2(第 48 页)

A 组

129	94	<
90	4500	<
480	41	<
232	248	>
5400	960	>
16	1518	<
690	6300	<
600	16	<
2000	750	>
816	2166	>
480	3600	>
111	279	>
1566	340	>
5600	71	<
294	296	<
91	202	

B 组

1. (0.8)(>)(0.3)
   (2.4)(>)(1.9)
2. 0.6 0.9 1.2 1.8 2.5 2.8
   2.8 >2.5 >1.8 >1.2 >0.9 >0.6

练习 3(第 49 页)

A 组

4.2	9.8	1.3
1.1	9.9	6.6
4.2	2.2	3.3
7.5	3	5.6
2.9	8	0.9
6.1	8.8	3
9.7	4	3.4
2.2	5.2	6.9
0.6	9.3	3
8.7	1.3	9.8
5.1	4.4	3.6
1	8.9	1.1
7.1	6	6.9
6.9	8.7	1.2
7.1	2	9.7

B 组

1. 4.5 3.6 7.6 9.1
2. (1)8.2 (2)1.4

练习 4(第 50 页)

A 组

>	0.4	5.3
<	2.7	1.8
<	1.9	5.5
>	3.1	4.1
<	3.4	7.8
<	5.7	0.1
>	2.1	2.1
<	7.8	4.1
<	3.9	9.5
<	5	4.4
>	5.1	3.1
<	4.2	6.5
	9.9	3.2
	5.1	6.9
	5.6	7.1
	4.1	7.9

B 组

1. (1)1 1.2
   (2)1.7 2
   (3)2.1 1.4
2. 6.6

荣德基星级口算天天练

请沿此虚线裁剪下使用

关注微信公众号“教辅资料站”获取更多学习资料

3. 42.7

4. 0.9

第八单元口算能力测试

（第 51 页）

A 组

<	2	2.5
<	0.6	7.8
>	0.4	7.6
>	3	9.9
<	0.2	5.5
>	4	6.9
<	1.7	4.7
<	7.8	3.1
>	6.1	4.9
<	3.4	8.4
<	8.8	2.4
<	7.6	2.7
	3.2	1.2
	3.4	3.2
	2.7	5.8
	3	4.4

B 组

1. 1.9　2. 2.5　3. 0.3　4. 0.2

第九单元　练习 1（第 52 页）

A 组

72	960	1
50	414	2.6
221	900	0.1
480	24	2.2
168	2107	1.3
284	1266	2.7
91	368	7.6
140	1260	1.8
101	238	4.9
650	5600	0.2
810	55	9.9
21	630	3.1
742	355	8.8
1525	104	9.9
90	784	4.2
472	525	8.1

B 组

性别	男	女
人数	80	78

男

练习 2（第 53 页）

A 组

168	2.8	4.9
107	1.8	2.2
3680	0.3	2.7
480	6	2.1
808	7.9	0.6
249	8	0.6
496	9.9	7.9
12	6.8	2.1
460	9.9	1.8
1050	1	6.1
313	9.9	0.9
51	4	4
1812	5.6	7.9
261	9.8	4
222	9.9	0.8
1600	1.6	1.8

B 组

1. 100　55　45

2. 9　1

练习 3（第 54 页）

A 组

520	770	3.9
15	240	0.9
176	760	5
108	27	2.9
203	255	7.6
420	840	9.7
106	1240	7.8
808	1477	8
492	380	0.7
102	475	0.8
368	92	3.2
570	32	5.3
52	900	2.1
496	312	6.5
680	130	6.2
520	960	1.9

B 组

1. 36　24　12　2. 2

第九单元口算能力测试

（第 55 页）

A 组

280	1.9	1.6
188	3.2	2.9
29	5.1	9.9
540	5.1	2
123	0.2	2.4
963	3	2.9
61	6	1.2
175	3.6	5.4
14	1.2	8
3680	9.2	5.7
282	8.2	5.5
780	2.3	4.2
51	6.7	5.3
262	1.7	1.1
343	6.1	3.6
530	1.7	6.6

B 组

1. 10　16　3　1　30

2. 100　3. 26

第十单元　练习 1（第 56 页）

A 组

720	1080	350
161	75	140
1020	110	480
296	780	100
150	468	72
249	1260	720
7200	192	50
960	1600	54

来德星级口算天天练

请沿此虚线裁剪下使用

关注微信公众号“教辅资料站”获取更多学习资料

351	220	490
750	2444	100
990	390	100
94	1160	540
2048	231	230
124	324	310
154	910	770
1280	696	200

B 组

1. 70×38=2660　　48×56=2688

$$\begin{array}{r} 38 \\ \times\ 70 \\ \hline 2660 \end{array} \qquad \begin{array}{r} 48 \\ \times\ 56 \\ \hline 288 \\ 240 \\ \hline 2688 \end{array}$$

37×80=2960　　78×43=3354

$$\begin{array}{r} 37 \\ \times\ 80 \\ \hline 2960 \end{array} \qquad \begin{array}{r} 78 \\ \times\ 43 \\ \hline 234 \\ 312 \\ \hline 3354 \end{array}$$

2. 144

练习 2（第 57 页）

A 组

810	170	7
135	990	8000
520	900	6000
484	628	300
2040	134	7000
78	2412	5
104	2840	7
690	840	3000
1536	780	8
228	720	50
1560	188	7
476	700	3000
770	440	7000
960	168	6
1224	1290	800
198	1288	2

B 组

1. 1000　1

2. 4

3. 3

练习 3（第 58 页）

A 组

200	80	340
14	252	82
402	650	45
126	324	170
15	780	320
460	160	660
184	856	20
96	740	400
960	930	800
51	108	20
42	140	170
420	484	90
4848	171	31
164	1899	80
1100	100	68
272	150	635

B 组

1. 66

2. 141

3. 187　32

4. 84　28

练习 4（第 59 页）

A 组

1440	30	36
339	90	980
16	600	1800
640	72	50
228	85	127
141	410	30
810	8	17
540	480	1480
220	60	870
168	494	30
1890	30	60
140	50	10
71	184	70
190	63	326
60	15	108
750	780	200

B 组

1. 476 −（156 +127）
=476 −283
=193
36 ×（142 −81）
=36 ×61
=2196
436 +567 ÷7
=436 +81
=517

2. 575　830 −85 ×3

3. 50　（420 −120）÷6

练习 5（第 60 页）

A 组

68	13:00	10 小时
560	8:00	7 小时
12	7:30	9 小时
448	15:30	8 小时 30 分钟
102	17:25	10 小时
168	20:50	5 小时
21	5:00	10 小时 30 分钟
312	8:45	12 小时
840	12:00	9 小时 30 分钟
224	18:00	12 小时
183	16:25	12 小时
234	23:40	11 小时
445	10:00	10 小时 30 分钟
61	15:38	8 小时
1266	22:30	14 小时
948		

B 组

1.

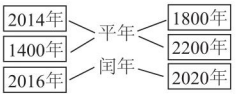

2. 585

3.（1）2 小时　7 小时
（2）不能

请沿此虚线裁剪下使用

荣德基星级口算天天练
关注微信公众号“教辅资料站”获取更多学习资料

练习6（第61页）

A组

6	1
7	9
500	17
3000	3200
900	4800
55	100
1600	300
9000	2600
800	88
2	2400
14	50
3	2
2500	72
10	1800
8000	40
400	35

B组

1. 8　12　12
　3　5　5

2. 6

练习7（第62页）

A组

>	$\frac{1}{3}$	$\frac{2}{5}$
>	$\frac{3}{4}$	$\frac{5}{6}$
<	$\frac{4}{5}$	$\frac{3}{7}$
<	$\frac{2}{6}$	$\frac{2}{8}$
>	$\frac{1}{7}$	$\frac{8}{9}$
>	$\frac{7}{8}$	$\frac{9}{10}$
>	$\frac{5}{9}$	$\frac{2}{3}$
>	$\frac{4}{7}$	$\frac{2}{4}$
=	$\frac{5}{6}$	$\frac{2}{8}$
<	$\frac{6}{8}$	$\frac{3}{9}$
	$\frac{4}{10}$	$\frac{8}{10}$
	$\frac{3}{4}$	$\frac{3}{8}$

B组

1. $\frac{7}{10}$　$\frac{3}{10}$　$\frac{5}{10}$
　$\frac{8}{10}$　$\frac{6}{10}$　$\frac{4}{10}$

2. 分一分略。
　9÷3×2=6（支）
　8÷4×3=6（个）
　10÷5×3=6（个）

练习8（第63页）

A组

<	0.8	0.1
>	1.2	2.2
>	6.8	7.2
<	3.1	4.5
>	1.4	2.2
<	7.1	9.7
>	3.9	1.4
<	0.2	2.1
<	7.3	2.1
>	8.6	5.9
<	4.7	7.8
<	9.8	4.1
	8.1	6.2
	1.9	7.9
	4	4.7
	6.6	1.4

B组

1. 1.3>0.9　0.7<2.3
　3.4<4.3

2. 3.7　2.8

3. 6　5　5　4　2　2
　（答案不唯一）

练习9（第64页）

A组

14	450	2.2
690	880	2.3
120	17	4.6
840	100	4.8
49	1860	0.9
252	105	9.2
91	13	2.6
640	70	6.9
296	535	1.2
203	81	8.3
1632	510	0.9
240	540	4.3
650	330	0.7
37	476	1.5
106	55	6.1
780	936	6.9

B组

1. 77　2. 154

口算能力期末综合测评（一）

（第65页）

330	3.2	7
832	2	70
248	2.9	60
322	1	480
3060	4.3	140
637	7.7	77
820	4.5	286
123	9	100
2442	3.7	15
147	4.9	180
121	1.4	163
1800	5.2	99
780	7.8	350
21	0.8	200
268	2.5	50
108	5.6	2800
1890	6	20
2460	2.5	39
50	8.2	50
828	5	70
81	7.9	77
368	1.7	96
102	9.9	20
1020	3	10

荣德基星级口算天天练

请沿此虚线裁剪下使用

关注微信公众号“教辅资料站”获取更多学习资料

82 9.1 184
490 1.8 120

口算能力期末综合测评（二）

（第 66 页）

70 2 1800
172 1.9 2200
600 8 2300
225 2.4 5000
101 4.4 16
216 3.6 32
4000 7.6 5
421 1.1 5
927 8.8 4600
960 3 5400
160 9.8 7000
160 6 800
368 9 7
104 8.4 8800
207 9.7 43
228 2.9 59
28 4 8000
31 6 2
540 5.5 80
81 9.9 96
480 0.1 3000
90 0.2 5700
369 6 3800
91 2.6 6400

54 7.8 9
810 2.8 12

口算能力期末综合测评（三）

（第 67 页）

4680 64 9
85 240 400
13 98 68
70 60 25
840 620 1600
26 225 88
420 60 49
1608 117 6400
660 360 104
336 88 81
1550 128 448
91 1230 36
637
91
520
37
284
51
860
71
168
41
2430
642

7290
492

口算能力期末综合测评（四）

（第 68 页）

64 3.1 32
700 2.1 13
540 2 5
5400 3.5 18
360 6.9 60
17 3.8 20
637 7.6 75
101 1.7 100
1244 8 160
960 8.1 106
320 5.1 35
132 8.8 40
21 0.9 0
175 2 480
103 3 130
960 2.8 49
216 0.3 118
61 8.1 69
144 8.8 24
90 9.1 638
690 4.9 22
150 4.1 66
246 7.9 600
105 7.8 720
472 6.2 300
680 2.4 10

荣德基星级口算天天练

请沿此虚线裁剪下使用

关注微信公众号“教辅资料站”获取更多学习资料