荣德基小学系列

荣德基 主编



星级口算天天练

三年级 数学 下

教辅资料站

电子教辅 试卷练习
知识总结 备课资源

扫码关注获取更多学习资料

时代出版传媒股份有限公司
安徽教育出版社

常规好题 题题好 变式妙题 道道妙

荣德基 星级口算天天练 三年级数学 下 时代出版传媒股份有限公司

图书在版编目（CIP）数据

星级口算天天练. 数学三年级. 下 / 荣德基主编.
— 合肥 ：安徽教育出版社，2019
ISBN 978-7-5336-8996-4

Ⅰ. ①星… Ⅱ. ①荣… Ⅲ. ①速算－小学－习题集
Ⅳ. ①G624.565

中国版本图书馆 CIP 数据核字（2019）第 170994 号

星级口算天天练 · 三年级数学下
XINGJI KOUSUAN TIANTIANLIAN · SANNIANJI SHUXUE XIA

出 版 人：费世平
质量总监：武常春
责任编辑：马小玲
责任校对：师文娟
装帧设计：典点瑞泰
责任印制：荣德印务

出版发行：时代出版传媒股份有限公司　安徽教育出版社
地　　址：合肥市经开区繁华大道西路 398 号　邮编：230601
网　　址：http://www.ahep.com.cn
营销电话：（0551）63683016，63683015
排　　版：北京华艺优创文化发展有限公司
印　　刷：人民今典印务有限公司

开　　本：787×1092　1/16
印　　张：5.5
字　　数：120 千字
版　　次：2019 年 8 月第 1 版　2019 年 8 月第 1 次印刷
定　　价：21.90 元

（如发现印装质量问题，影响阅读，请与本社营销部联系调换）

微信公众号
教辅资料站

关注微信公众号“教辅资料站”获取更多学习资料

荣德基小学系列

星级口算天天练

三年级 数学 下

主 编：荣德基　　本册主编：李晓静



学 校：.....

班 级：.....

姓 名：.....

喜欢的格言：.....

ARTTIME 时代出版
时代出版传媒股份有限公司
安徽教育出版社

关注微信公众号“教辅资料站”获取更多学习资料

练习3　含有括号的混合运算 …… 21
练习4　习题课 …… 22
第四单元口算能力测试 …… 23



第五单元　年、月、日

练习1　年、月、日（一） …… 24
练习2　年、月、日（二） …… 25
练习3　习题课 …… 26
练习4　24时记时法的认识 …… 27
练习5　简单的经过时间的计算 …… 28
练习6　习题课 …… 29
第五单元口算能力测试 …… 30



第六单元　长方形和正方形的面积

练习1　面积的认识 …… 31
练习2　面积单位 …… 32
练习3　习题课 …… 33
练习4　面积的计算 …… 34
练习5　面积的计算习题课 …… 35
练习6　面积的单位换算 …… 36
练习7　面积的单位换算习题课 …… 37
练习8　复　习 …… 38
第六单元口算能力测试 …… 39

第七单元　分数的初步认识（二）

练习1　认识几分之一（一） …… 40
练习2　认识几分之一（二） …… 41
练习3　认识几分之几（一） …… 42
练习4　认识几分之几（一）习题课 …… 43

微信公众号
教辅资料站

关注微信公众号“教辅资料站”获取更多学习资料

CONTENTS

目录

SJ



第一单元　两位数乘两位数

练习 1　两位数乘整十数的口算 …… 1
练习 2　两位数乘两位数的笔算（一） …… 2
练习 3　两位数乘两位数的笔算（二） …… 3
练习 4　习题课 …… 4
练习 5　乘数末尾有 0 的乘法 …… 5



练习 6　解决问题 …… 6
练习 7　习题课 …… 7
练习 8　复　习 …… 8
练习 9　有趣的乘法 …… 9
第一单元口算能力测试 …… 10

第二单元　千米和吨

练习 1　千米的认识 …… 11
练习 2　吨的认识 …… 12
练习 3　习题课 …… 13
第二单元口算能力测试 …… 14

第三单元　解决问题的策略

练习 1　解决问题的策略（一） …… 15
练习 2　解决问题的策略（二） …… 16
练习 3　习题课 …… 17
第三单元口算能力测试 …… 18

第四单元　混合运算

练习 1　没有括号的混合运算（一） …… 19
练习 2　没有括号的混合运算（二） …… 20



微信公众号 教辅资料站

关注微信公众号“教辅资料站”获取更多学习资料

第一单元 两位数乘两位数

难易等级：

练习1 两位数乘整十数的口算

用时：____分____秒　错误：　个

A组 常规口算题

12 ×6 =	30 ×60 =	62 ×4 =
120 ×6 =	15 ×4 =	170 ×4 =
70 ×80 =	0 ×45 =	20 ×60 =
150 ×5 =	160 ×3 =	180 ×5 =
23 ×4 =	112 ×5 =	37 ×10 =
230 ×4 =	440 ×2 =	500 ×6 =
34 ×2 =	30 ×70 =	41 ×4 =
30 ×40 =	46 ×10 =	380 ×2 =
43 ×10 =	150 ×3 =	40 ×60 =
343 ×2 =	216 ×2 =	330 ×3 =
17 ×5 =	600 ×3 =	21 ×10 =
170 ×5 =	39 ×10 =	850 ×2 =
26 ×10 =	14 ×6 =	33 ×3 =
260 ×3 =	121 ×3 =	211 ×4 =
40 ×70 =	90 ×50 =	30 ×50 =
123 ×2 =	350 ×2 =	27 ×3 =

B组 变式口算题

1. 我会填。

苹果	香蕉	桃子	橘子
每箱 12 千克	每箱 20 千克	每箱 10 千克	每箱 15 千克
10 箱	30 箱	18 箱	10 箱
共(　　)千克	共(　　)千克	共(　　)千克	共(　　)千克

2. 一种童装的价钱是每件 39 元，某服装店购进了 21 件，大约花了(　　)元。

关注微信公众号“教辅资料站”获取更多学习资料

练习5　认识几分之几（二） …… 44
练习6　认识几分之几（二）习题课 …… 45
第七单元口算能力测试 …… 46

第八单元　小数的初步认识

练习1　小数的意义和读写 …… 47
练习2　小数的大小比较 …… 48
练习3　简单的小数加减法 …… 49
练习4　习题课 …… 50
第八单元口算能力测试 …… 51



第九单元　数据的收集和整理（二）

练习1　数据的分类和汇总 …… 52
练习2　数据的简单分析 …… 53
练习3　习题课 …… 54
第九单元口算能力测试 …… 55

第十单元　期末复习

练习1　两位数乘两位数 …… 56
练习2　千米和吨 …… 57
练习3　解决问题的策略 …… 58
练习4　混合运算 …… 59
练习5　年、月、日 …… 60
练习6　长方形和正方形的面积 …… 61
练习7　分数的初步认识（二） …… 62
练习8　小数的初步认识 …… 63
练习9　数据的收集和整理（二） …… 64
口算能力期末综合测评（一） …… 65
口算能力期末综合测评（二） …… 66
口算能力期末综合测评（三） …… 67
口算能力期末综合测评（四） …… 68
参考答案 …… 69

微信公众号
教辅资料站

关注微信公众号“教辅资料站”获取更多学习资料

练习2 两位数乘两位数的笔算（一）

用时：___分___秒 错误：　个

A组 常规口算题

123 ×3 =	23 ×3 =	17 ×4 =
72 ×2 =	112 ×6 =	123 ×2 =
30 ×70 =	60 ×50 =	56 ×2 =
43 ×3 =	64 ×4 =	80 ×70 =
17 ×10 =	130 ×3 =	49 ×3 =
120 ×4 =	38 ×10 =	90 ×20 =
40 ×80 =	15 ×7 =	73 ×3 =
47 ×2 =	90 ×30 =	27 ×10 =
56 ×3 =	92 ×4 =	92 ×4 =
115 ×2 =	92 ×10 =	50 ×30 =
50 ×90 =	45 ×2 =	505 ×5 =
117 ×4 =	424 ×2 =	422 ×4 =
23 ×10 =	84 ×7 =	15 ×10 =
51 ×3 =	70 ×80 =	115 ×3 =
420 ×3 =	123 ×0 =	17 ×5 =
90 ×50 =	47 ×10 =	36 ×10 =

B组 变式口算题

1. 一只青蛙每天吃 34 只害虫，这只青蛙 21 天一共吃了多少只害虫？在（　　）里填合适的数。

```
  3 4
×2 1
-----
  3 4  …(　　)天吃了(　　)只害虫
6 8    …(　　)天吃了(　　)只害虫
7 1 4  …(　　)天吃了(　　)只害虫
```

2. 用竖式计算，并验算。

32 ×13 =

23 ×12 =

微信公众号 教辅资料站

关注微信公众号“教辅资料站”获取更多学习资料

练习3　两位数乘两位数的笔算（二）

用时：____分____秒　错误：　个

A组　常规口算题

12 ×4 =	42 ×2 =	5 ×8 +20 =
120 ×3 =	15 ×10 =	4 ×7 +8 =
70 ×50 =	53 ×3 =	5 ×9 +7 =
14 ×7 =	40 ×80 =	31 ×3 +6 =
230 ×3 =	150 ×2 =	45 ×2 +10 =
13 ×10 =	38 ×2 =	7 ×9 +6 =
16 ×5 =	70 ×60 =	9 ×8 +7 =
116 ×2 =	311 ×3 =	3 ×8 +10 =
30 ×80 =	63 ×3 =	12 ×2 +5 =
45 ×3 =	312 ×2 =	23 ×3 +9 =
123 ×3 =	60 ×80 =	25 ×2 +20 =
40 ×90 =	26 ×3 =	33 ×3 +1 =
17 ×10 =	411 ×4 =	9 ×6 +7 =
84 ×7 =	53 ×10 =	4 ×8 +9 =
311 ×4 =	36 ×2 =	6 ×6 +5 =
47 ×10 =	102 ×8 =	4 ×10 +20 =

B组　变式口算题

1. 用竖式计算，并验算。

47 ×12 =　　35 ×37 =　　28 ×64 =

2. 小红每天坚持写25个毛笔字，她一个月（31天）一共能写(　　)个毛笔字。

微信公众号 教辅资料站

关注微信公众号“教辅资料站”获取更多学习资料

练习4 习题课

用时：____分____秒 错误：　个

A组 常规口算题

43 ×2 =	84 ×2 =	3 ×8 +4 =
70 ×60 =	56 ×10 =	4 ×7 +9 =
124 ×2 =	47 ×2 =	20 ×3 +30 =
23 ×20 =	113 ×3 =	7 ×5 +8 =
45 ×3 =	70 ×40 =	4 ×6 +10 =
80 ×40 =	92 ×4 =	12 ×3 +6 =
360 ÷6 =	120 ×2 =	4 ×9 +9 =
17 ×10 =	132 ×3 =	14 ×2 +8 =
96 ×6 =	18 ×10 =	30 ×2 +50 =
30 ×90 =	35 ×2 =	17 ×10 +3 =
115 ×3 =	76 ×4 =	9 ×8 +2 =
44 ×2 =	90 ×60 =	8 ×7 +7 =
80 ×20 =	213 ×4 =	20 ×4 +7 =
82 ×4 =	102 ×9 =	4 ×8 +8 =
113 ×5 =	23 ×10 =	7 ×8 +8 =
214 ×3 =	317 ×2 =	40 ×3 +20 =

B组 变式口算题

1. 王丹从学校步行回家，平均每分钟走 68 米，走了 21 分钟。她家离学校大约（　　）米，实际（　　）米。

2. 现有 22 箱苹果，每箱苹果 10 千克，一共有（　　）千克苹果。每箱苹果的价钱是 30 元，一共可以卖（　　）元。

3. 海陵小学 10 位老师带领 12 个班的学生去看电影，每个班 40 个人，至少需要准备（　　）个座位。

微信公众号 教辅资料站

关注微信公众号“教辅资料站”获取更多学习资料

练习5　乘数末尾有0的乘法

用时：____分____秒　错误：　个

A组　常规口算题

64 ×2 =	73 ×3 =	16 ×5 ×8 =
12 ×8 =	80 ×60 =	12 ×2 +6 =
70 ×80 =	28 ×3 =	35 ×2 ×4 =
12 ×30 =	38 ×2 =	40 ×2 +100 =
71 ×3 =	11 ×60 =	17 ×2 +4 =
90 ×50 =	114 ×2 =	25 ×2 ×5 =
123 ×3 =	70 ×90 =	42 ×2 −8 =
16 ×3 =	210 ×3 =	120 ×2 −60 =
23 ×20 =	14 ×20 =	45 ×2 ×8 =
150 ×3 =	171 ×2 =	20 ×4 −50 =
70 ×60 =	640 ×2 =	70 ×3 +90 =
114 ×3 =	49 ×2 =	12 ×5 ×7 =
45 ×3 =	42 ×20 =	40 ×2 ×5 =
24 ×20 =	311 ×3 =	72 ×2 −44 =
53 ×3 =	503 ×3 =	14 ×5 ×8 =
602 ×2 =	360 ×2 =	63 ×3 +1 =

B组　变式口算题

1. 用竖式计算。

49 ×20 =　　70 ×38 =　　69 ×40 =　　35 ×50 =

2. 三年级（1）班共有34名学生，平均每人做了40朵花。全班学生共做了（　　）朵花。

微信公众号 教辅资料站

关注微信公众号“教辅资料站”获取更多学习资料

练习6 解决问题

用时：___分___秒 错误：　个

A组 常规口算题

34 ×2 =	52 ×3 =	12 ×2 +8 =
120 ×3 =	44 ×20 =	50 ×2 +80 =
11 ×50 =	121 ×4 =	45 ×2 ×7 =
70 ×80 =	84 ×4 =	71 ×4 −84 =
134 ×2 =	11 ×5 =	45 ×2 +10 =
23 ×50 =	30 ×90 =	30 ×2 ×9 =
47 ×2 =	49 ×2 =	45 ×2 −50 =
90 ×50 =	22 ×30 =	45 ×2 +9 =
93 ×3 =	311 ×4 =	25 ×2 ×6 =
42 ×20 =	40 ×80 =	121 ×2 −42 =
121 ×6 =	125 ×3 =	23 ×2 +54 =
24 ×4 =	75 ×3 =	12 ×5 ×8 =
30 ×60 =	23 ×30 =	72 ×2 −44 =
707 ×8 =	312 ×4 =	82 ×3 +4 =
33 ×30 =	407 ×2 =	14 ×5 ×7 =
126 ×2 =	150 ×5 =	105 ×2 −10 =

B组 变式口算题

1. 某小区一共有30幢楼房，每幢楼房有5层，每层有8户人家。这个小区一共可以住(　　)户人家。

2. 一个写字本共20页，每页12行，每行8个格子，这个写字本一共有(　　)个格子。

3. 某玩具厂一天能生产12箱玩具，每箱玩具5个，一周(7天)可以生产(　　)个玩具。

关注微信公众号“教辅资料站”获取更多学习资料

练习7　习题课

用时：____分____秒　错误：　个

A组　常规口算题

43 ×3 =	81 ×2 =	4 ×5 ×9 =
123 ×3 =	47 ×3 =	45 ×3 ×7 =
42 ×2 =	18 ×20 =	12 ×2 +8 =
407 ×4 =	160 ×5 =	30 ×3 ×9 =
24 ×20 =	50 ×70 =	31 ×3 +7 =
72 ×4 =	96 ×3 =	35 ×2 ×9 =
45 ×3 =	42 ×20 =	120 ×5 −300 =
70 ×80 =	52 ×4 =	211 ×2 −22 =
120 ×5 =	60 ×80 =	20 ×3 ×8 =
16 ×30 =	608 ×7 =	71 ×4 +6 =
72 ×8 =	33 ×30 =	48 ×2 −46 =
90 ×60 =	315 ×3 =	45 ×2 ×8 =
217 ×2 =	408 ×2 =	52 ×4 −8 =
17 ×20 =	412 ×3 =	72 ×3 −16 =
415 ×2 =	51 ×5 =	12 ×5 ×6 =
124 ÷4 =	506 ×6 =	14 ×3 +58 =

B组　变式口算题

1. 水果店运来20箱苹果，每箱苹果15千克，每千克7元钱，这些苹果全部卖出一共能卖(　　)元。
2. 一只兔子一天可以吃5根胡萝卜，照这样计算，20只兔子8天一共能吃(　　)根胡萝卜。
3. 丽丽家到学校有450米，她每天上学放学走2个来回，丽丽一周(按5天计算)上学放学共走(　　)米。
4. 果农赵大哥种了6行核桃树，每行10棵，平均每棵核桃树一年可收核桃25千克，这些核桃树一年一共可收核桃(　　)千克。

关注微信公众号“教辅资料站”获取更多学习资料

练习8 复 习

用时：____分____秒 错误：　个

A组 常规口算题

34 ×2 =	63 ×2 =	34 ×2 +7 =
44 ×20 =	15 ×50 =	45 ×2 ×7 =
412 ×2 =	311 ×3 =	115 ×3 −45 =
19 ×40 =	34 ×20 =	40 ×5 ×6 =
27 ×3 =	94 ×2 =	312 ×2 −24 =
213 ×4 =	68 ×4 =	35 ×2 ×9 =
15 ×60 =	24 ×6 =	48 ×2 +4 =
83 ×4 =	52 ×3 =	30 ×2 ×7 =
60 ×50 =	126 ×3 =	120 ×2 +200 =
37 ×20 =	87 ×10 =	25 ×4 ×9 =
64 ×3 =	90 ×20 =	113 ×2 −26 =
38 ×2 =	16 ×60 =	43 ×2 +9 =
91 ×3 =	706 ×6 =	14 ×5 ×8 =
52 ×30 =	95 ×2 =	24 ×3 +9 =
113 ×5 =	71 ×2 =	72 ×2 −44 =
11 ×50 =	117 ×3 =	12 ×5 ×9 =

B组 变式口算题

1. 用竖式计算。

31 ×27 =　　45 ×30 =

2. 蜂鸟是世界上最小的鸟类，一只蜂鸟的体重为 18 克，一只鸽子的体重大约是这只蜂鸟的 21 倍，估算一下，这只鸽子的体重约是(　　)克。

3. 一个师傅每小时加工零件 18 个，照这样计算，5 个师傅 8 小时可以加工零件(　　)个。

微信公众号 教辅资料站

关注微信公众号“教辅资料站”获取更多学习资料

练习9　有趣的乘法

用时：____分____秒　错误：　个

A组　常规口算题

121 ×3 =	45 ×20 =	13 ×6 =
35 ×2 =	19 ×3 =	15 ×20 =
23 ×30 =	24 ×40 =	134 ×2 =
32 ×3 =	92 ×4 =	27 ×3 =
408 ×2 =	136 ×2 =	22 ×4 =
18 ×40 =	31 ×50 =	32 ×30 =
39 ×5 =	43 ×2 =	45 ×3 =
15 ×60 =	73 ×3 =	11 ×40 =
18 ×50 =	31 ×40 =	72 ×6 =
92 ×3 =	125 ×3 =	24 ×4 =
417 ×2 =	89 ×2 =	301 ×5 =
39 ×20 =	17 ×50 =	19 ×20 =
16 ×7 =	107 ×4 =	22 ×30 =
124 ×3 =	56 ×2 =	214 ×3 =
96 ×10 =	49 ×20 =	36 ×3 =
207 ×3 =	511 ×5 =	51 ×20 =

B组　变式口算题

先直接写出下面各题的得数，再用竖式验证。

36 ×24 =　　75 ×75 =　　43 ×47 =　　38 ×32 =

微信公众号
教辅资料站

关注微信公众号“教辅资料站”获取更多学习资料

第一单元口算能力测试

用时：____分____秒 错误：　个

A组 常规口算题

17 ×4 =	49 ×2 =	20 ×2 ×4 =
29 ×30 =	37 ×20 =	48 ×2 −16 =
53 ×2 =	114 ×5 =	30 ×4 ×5 =
68 ×10 =	41 ×3 =	34 ×2 −54 =
303 ×3 =	39 ×20 =	45 ×2 ×3 =
17 ×20 =	51 ×3 =	73 ×3 −19 =
57 ×3 =	15 ×50 =	15 ×2 ×80 =
124 ×3 =	171 ×2 =	112 ×2 +6 =
24 ×40 =	102 ×6 =	21 ×30 −30 =
119 ×2 =	34 ×20 =	45 ×2 ×8 =
99 ×2 =	43 ×3 =	35 ×20 +100 =
48 ×2 =	18 ×40 =	42 ×20 +50 =
144 ×2 =	76 ×3 =	35 ×2 ×9 =
13 ×60 =	27 ×30 =	120 ×5 −150 =
74 ×3 =	50 ×12 =	37 ×20 −40 =
31 ×30 =	216 ×3 =	60 ×2 −40 =

B组 变式口算题

1. 三年级 9 名教师带领 80 名同学去生态园，票价如下：

成人票：15 元/人　　学生票：12 元/人

（1）购买学生票共用去（　　）元。

（2）教师买票共用去（　　）元。

（3）三年级师生买票共花（　　）元。

2. 三年级 4 个班的学生要成立“流动书屋”，平均每个班 50 名学生，每名学生捐书 6 本，三年级一共捐书（　　）本。

关注微信公众号“教辅资料站”获取更多学习资料

第二单元 千米和吨

练习1 千米的认识

用时：____分____秒　错误：　个

A组 常规口算题

43 ×3 =	11 ×20 =	63 ×2 =
14 ×20 =	14 ×7 =	40 ×70 =
23 ×4 =	25 ×3 =	26 ×3 =
52 ×2 =	123 ×4 =	43 ×5 =
43 ×2 =	6 ×16 =	26 ×20 =
141 ×2 =	95 ×3 =	123 ×3 =
50 ×20 =	30 ×40 =	20 ×80 =
116 ×2 =	17 ×30 =	18 ×5 =
22 ×4 =	10 ×19 =	24 ×3 =
16 ×7 =	145 ×2 =	225 ×3 =
12 ×40 =	20 ×17 =	21 ×40 =
47 ×3 =	63 ×4 =	25 ×7 =
60 ×12 =	30 ×14 =	33 ×20 =
505 ×3 =	522 ×4 =	42 ×30 =
40 ×13 =	15 ×30 =	202 ×9 =
215 ×3 =	125 ×3 =	511 ×5 =

B组 变式口算题

1. 我会填。

5 千米 = (　　) 米　　4000 米 = (　　) 千米　　6 千米 = (　　) 米

8 千米 = (　　) 米　　3000 米 = (　　) 千米　　9000 米 = (　　) 千米

2. 在(　　)里填上合适的单位。

(1) 世界上最长的河流是尼罗河，全长约 6650(　　)。

(2) 学校教学楼高 10(　　)。

(3) 世界最高峰珠穆朗玛峰的海拔约是 8844(　　)。

微信公众号 教辅资料站

关注微信公众号“教辅资料站”获取更多学习资料

练习2 吨的认识

用时：____分____秒 错误：　个

A组 常规口算题

14 ×5 =	111 ×4 =	19 ×2 =
124 ×2 =	63 ×2 =	24 ×30 =
37 ×20 =	17 ×8 =	332 ×3 =
60 ×70 =	30 ×70 =	124 ×3 =
16 ×40 =	15 ×30 =	52 ×2 =
45 ×3 =	242 ×2 =	403 ×4 =
42 ×30 =	14 ×30 =	56 ×2 =
152 ×4 =	47 ×5 =	71 ×30 =
21 ×40 =	70 ×11 =	80 ×80 =
50 ×15 =	22 ×30 =	43 ×5 =
77 ×2 =	722 ×4 =	27 ×4 =
17 ×20 =	71 ×20 =	50 ×80 =
42 ×4 =	143 ×3 =	262 ×2 =
422 ×4 =	13 ×40 =	34 ×3 =
152 ×3 =	17 ×30 =	318 ×2 =
404 ×2 =	408 ×4 =	63 ×30 =

B组 变式口算题

1. 我会填。

2 吨 =（　　）千克　　3000 千克 =（　　）吨　　4 吨 =（　　）千克

7 吨 =（　　）千克　　5000 千克 =（　　）吨　　2000 千克 =（　　）吨

2. 在（　　）里填上合适的单位。

（1）一个苹果约重 200（　　）。

（2）一辆货车载重 5（　　）。

（3）一头牛的体重大约是 500（　　），两头牛大约重 1（　　）。

微信公众号 教辅资料站

关注微信公众号“教辅资料站”获取更多学习资料

练习3　习题课

用时：____分____秒　错误：　个

A组　常规口算题

43 ×3 =	22 ×4 =	5 吨 =（　　）千克
17 ×30 =	72 ×3 =	7 千米 =（　　）米
51 ×5 =	132 ×3 =	4 米 =（　　）厘米
114 ×3 =	23 ×20 =	7000 克 =（　　）千克
36 ×4 =	14 ×30 =	6 千米 =（　　）米
58 ×3 =	62 ×8 =	50 分米 =（　　）米
24 ×30 =	411 ×4 =	6 吨 =（　　）千克
117 ×4 =	506 ×4 =	300 厘米 =（　　）米
61 ×5 =	28 ×8 =	9000 千克 =（　　）吨
25 ×20 =	43 ×5 =	7 米 =（　　）厘米
70 ×90 =	26 ×30 =	4 千米 =（　　）米
505 ×7 =	43 ×8 =	8 吨 =（　　）千克
46 ×20 =	318 ×2 =	60 分米 =（　　）米
98 ×2 =	13 ×60 =	5000 米 =（　　）千米
79 ×3 =	147 ×2 =	8 米 =（　　）厘米
141 ×3 =	44 ×3 =	7000 米 =（　　）千米

B组　变式口算题

1. 在（　　）里填上合适的单位名称。

我国的黄河大约长 5464（　　）。　　一根粉笔大约长 10（　　）。

一个集装箱能装货物 20（　　）。　　高铁每小时行驶 300（　　）。

一袋小麦重 50（　　）。　　小丽身高 135（　　），体重 30（　　）。

一辆卡车载重 5（　　）。　　地球绕太阳每秒运行约 30（　　）。

2. 生产 1 吨纸需要用水 15 吨，生产 60 吨纸需要用水（　　）吨。

关注微信公众号“教辅资料站”获取更多学习资料

第二单元口算能力测试

用时：____分____秒 错误：　个

A组 常规口算题

36 ×2 =	19 ×30 =	3000 千克 =（　　）吨
47 ×3 =	23 ×20 =	7000 米 =（　　）千米
18 ×20 =	53 ×4 =	8 千米 =（　　）米
24 ×10 =	63 ×2 =	9 吨 =（　　）千克
116 ×2 =	121 ×4 =	7000 克 =（　　）千克
4 ×18 =	72 ×30 =	5 米 =（　　）厘米
57 ×3 =	23 ×9 =	8000 千克 =（　　）吨
26 ×4 =	33 ×20 =	9000 米 =（　　）千米
711 ×4 =	63 ×5 =	30 分米 =（　　）米
78 ×3 =	44 ×3 =	7 吨 =（　　）千克
36 ×20 =	117 ×3 =	4000 克 =（　　）千克
47 ×30 =	52 ×4 =	700 厘米 =（　　）米
407 ×6 =	61 ×30 =	5000 千克 =（　　）吨
72 ×4 =	125 ×3 =	6 千米 =（　　）米
50 ×13 =	27 ×4 =	700 厘米 =（　　）米
226 ×3 =	129 ×2 =	6 吨 =（　　）千克

B组 变式口算题

1. 跑道每圈长 600 米，小华跑了 5 圈是（　　）米，合（　　）千米。

2. 一头牛约重 200 千克，10 头这样的牛约重（　　）千克，合（　　）吨。

3. 大卡车 5 小时行 400 千米，小汽车 3 小时行 255 千米。（　　）跑得快，平均每小时快（　　）千米。

4. 某果园收了 54 吨苹果，运走 18 吨后，剩下的用载重 5 吨的卡车来运输，至少要运（　　）车才能全部运完。

微信公众号 教辅资料站

关注微信公众号“教辅资料站”获取更多学习资料

第三单元 解决问题的策略

练习1 解决问题的策略（一）

用时：____分____秒　错误：　个

A组 常规口算题

90 ×60 =	18 ×30 =	171 −71 −45 =
69 ÷3 =	78 ×2 =	45 ×2 ×9 =
12 ×60 =	48 ÷4 =	30 ×5 +16 =
47 ×2 =	49 ×3 =	22 ×3 −26 =
76 ÷4 =	560 ÷7 =	216 +18 −30 =
92 ×3 =	70 ×80 =	7 ×10 ×8 =
23 ×30 =	57 ÷3 =	21 ×2 +32 =
244 ÷2 =	22 ×30 =	450 −27 −9 =
48 ×3 =	18 ×5 =	21 ×3 +40 =
122 ×4 =	808 ÷2 =	35 ×2 ×6 =
729 ÷9 =	132 ×3 =	21 ×4 −21 =
44 ×20 =	46 ×30 =	412 +18 +55 =
316 ×3 =	186 ÷3 =	14 ×5 ×7 =
153 ÷3 =	416 ×2 =	70 ×6 +480 =
706 ×7 =	29 ×20 =	43 ×3 −18 =
420 ÷3 =	455 ÷5 =	12 ×5 ×8 =

B组 变式口算题



28 元/件



39 元/件



49 元/条

1. 买两件上衣和一件裙子一共需要(　　)元。

列式：_____

2. 买两条裤子比一件上衣多花(　　)元。

列式：_____

关注微信公众号“教辅资料站”获取更多学习资料

练习2 解决问题的策略（二）

用时：___分___秒 错误：　个

A组 常规口算题

17 ×4 =	52 ×3 =	310 +270 −80 =
23 ×3 =	300 ÷5 =	21 ×3 +17 =
69 ÷3 =	47 ×4 =	25 ×4 ×9 =
112 ×4 =	32 ÷2 =	43 ×2 −20 =
120 ×6 =	170 ×5 =	450 −360 +400 =
150 ×3 =	13 ×60 =	63 ×2 −26 =
420 ÷6 =	123 ×4 =	35 ×2 ×8 =
70 ×80 =	78 ÷3 =	112 +78 −50 =
46 ×20 =	80 ×80 =	20 ×3 +17 =
123 ÷3 =	23 ×40 =	17 ×5 +15 =
78 ×2 =	330 ÷5 =	700 −250 −150 =
36 ×20 =	152 ×3 =	141 ×2 −82 =
76 ÷2 =	24 ×40 =	25 ×2 ×7 =
522 ×4 =	606 ×7 =	70 −35 +210 =
118 ×3 =	720 ÷4 =	133 ×3 −45 =
96 ÷4 =	312 ×4 =	45 ×2 +110 =

B组 变式口算题

1. 学校图书馆有文艺书56本，故事书比文艺书多34本，图书馆有文艺书和故事书共(　　)本。

2. 同学们今年植树32棵，去年比今年少植17棵，去年和今年一共植树(　　)棵。

3. 一盒桃酥22元，一盒月饼的售价是这盒桃酥的5倍。

(1)这盒桃酥和这盒月饼一共卖(　　)元。

(2)这盒月饼比这盒桃酥贵(　　)元。

关注微信公众号“教辅资料站”获取更多学习资料

练习3　习题课

用时：___分___秒　错误：　个

A组　常规口算题

33 ×3 =	92 ×2 =	26 ×3 +22 =
47 ×4 =	116 ×2 =	20 ×3 ×7 =
77 ÷7 =	18 ×30 =	20 ×3 +130 =
13 ×20 =	120 ÷3 =	380 −160 +80 =
505 ×3 =	70 ×80 =	35 ×2 ×9 =
46 ÷2 =	48 ×3 =	121 ×3 +7 =
27 ×30 =	404 ÷2 =	70 ×4 −35 =
142 ×4 =	24 ×20 =	25 ×2 ×8 =
57 ÷3 =	10 ×89 =	147 −47 +89 =
96 ×2 =	76 ÷4 =	50 ×2 −45 =
16 ×40 =	88 ×3 =	45 ×2 ×6 =
124 ÷4 =	17 ×30 =	35 ×4 −70 =
90 ×60 =	366 ÷6 =	331 ×3 −93 =
55 ×3 =	407 ×2 =	120 ×5 −300 =
567 ÷7 =	318 ×3 =	86 +64 −100 =
171 ×4 =	420 ÷3 =	14 ×5 ×7 =

B组　变式口算题

1. 李明看一本 420 页的故事书，平均每天看 25 页，看了 5 天，还剩下(　　)页没看。

2. 三年级一共有 145 人，四年级有 5 个班，平均每班有 40 人，三年级和四年级一共有(　　)人，四年级比三年级多(　　)人。

3. 时代超市运来苹果 40 箱，香蕉比苹果少 12 箱，梨的箱数是苹果的 4 倍。苹果和香蕉一共有(　　)箱，梨比苹果多(　　)箱。

关注微信公众号“教辅资料站”获取更多学习资料

第三单元口算能力测试

用时：___分___秒 错误：　个

A组 常规口算题

43 ×2 =	36 ×3 =	5 ×10 +23 =
90 ×50 =	33 ×30 =	47 +153 −120 =
560 ÷7 =	52 ×2 =	35 ×2 ×7 =
86 ×2 =	76 ÷2 =	11 ×3 +44 =
26 ×20 =	60 ×70 =	25 ×4 ×8 =
46 ÷2 =	47 ×3 =	55 +45 +121 =
37 ×3 =	120 ÷2 =	14 ×5 ×6 =
18 ×30 =	115 ×2 =	70 ×3 −100 =
75 ÷3 =	42 ×40 =	380 +110 −70 =
144 ×2 =	306 ÷3 =	75 ×2 −35 =
506 ×3 =	55 ×2 =	22 ×5 ×6 =
124 ÷4 =	76 ×4 =	275 −45 +170 =
36 ×20 =	72 ÷4 =	46 ×2 +50 =
171 ×3 =	15 ×50 =	141 ×2 −82 =
560 ÷4 =	218 ×3 =	12 ×3 ×2 =
88 ×3 =	488 ÷8 =	60 ×3 −45 =

B组 变式口算题

1. (　　)商店卖得便宜一些。

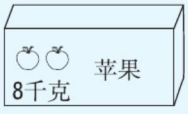

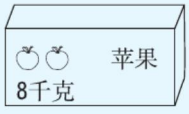

甲商店

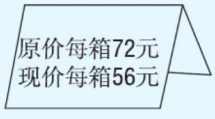

乙商店

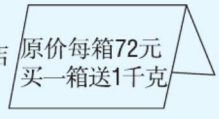

2. 四年级学生在森林公园植树。四(1)班植了 43 棵，四(2)班植树的棵数是四(1)班的 3 倍。两个班级一共植树(　　)棵，四(2)班比四(1)班多植(　　)棵。

关注微信公众号“教辅资料站”获取更多学习资料

第四单元 混合运算

练习1 没有括号的混合运算（一）

用时：____分____秒　错误：　个

A组 常规口算题

13 ×3 =	48 ×2 =	60 −14 ×2 =
40 ×12 =	24 ×20 =	15 ×3 +32 =
84 ÷4 =	111 ×5 =	17 ×3 +21 =
26 ×20 =	36 ÷2 =	18 ×4 −12 =
25 ×7 =	47 ×2 =	88 −19 ×2 =
96 ÷6 =	60 ×14 =	99 −20 ×3 =
116 ×2 =	48 ÷3 =	20 ×4 ÷8 =
17 ×30 =	58 ×3 =	60 +30 ×2 =
213 ÷3 =	92 ×4 =	56 −10 ×3 =
407 ×3 =	720 ÷8 =	60 +20 ×5 =
88 ×3 =	15 ×30 =	88 −10 ×3 =
406 ÷2 =	130 ×3 =	56 ÷7 ×40 =
47 ×6 =	455 ÷5 =	79 −15 ×3 =
22 ×40 =	306 ×3 =	80 +16 ×3 =
714 ×2 =	707 ÷7 =	17 ×8 −60 =
720 ÷4 =	418 ×2 =	20 +31 ×2 =

B组 变式口算题

1. 光明小学向贫困山区小朋友捐书，三年级有 3 个班，平均每个班捐书 23 本，四年级共捐书 89 本。三、四年级共捐书(　　)本。

2. 一个篮球 35 元，一个足球 42 元。买 3 个篮球和一个足球共(　　)元，100 元买 2 个足球，应找回(　　)元。

3. 水果店运来 38 箱梨，运来苹果的箱数比梨的 3 倍多 16 箱，运来橘子的箱数比梨的 2 倍少 29 箱。运来苹果(　　)箱，运来橘子(　　)箱。

关注微信公众号“教辅资料站”获取更多学习资料

练习2 没有括号的混合运算（二）

用时：___分___秒 错误：　个

A组 常规口算题

32 ×2 =	46 ×20 =	30 −12 ÷2 =
47 ×3 =	96 ÷2 =	70 −50 ÷5 =
48 ÷2 =	82 ×3 =	140 ÷7 +47 =
110 ×7 =	90 ×70 =	60 +12 ÷4 =
17 ×30 =	240 ÷3 =	35 ×2 +48 =
413 ×2 =	125 ×5 =	90 −80 ÷5 =
75 ÷3 =	28 ×20 =	18 +12 ×5 =
76 ×3 =	77 ×3 =	80 ÷4 ×6 =
24 ×40 =	380 ÷2 =	96 −25 ×2 =
40 ×80 =	83 ×3 =	76 ÷4 +20 =
120 ÷6 =	27 ×30 =	480 ÷6 +35 =
52 ×4 =	706 ×5 =	17 +20 ×3 =
23 ×60 =	906 ÷3 =	71 −77 ÷7 =
420 ÷3 =	68 ×2 =	82 +14 ÷2 =
411 ×6 =	315 ×3 =	12 ×5 ÷3 =
546 ÷6 =	729 ÷9 =	70 −80 ÷8 =

B组 变式口算题

1. 计算：56 +96 ÷6　　280 ÷7 +60　　73 −57 ÷3

2. 一袋大白菜 37 千克，6 袋土豆 180 千克（每袋土豆的质量是固定的），一袋土豆比一袋大白菜少（　　）千克。

3. 啄木鸟平均每天能吃 64 只害虫，青蛙 8 天吃了 608 只害虫。啄木鸟和青蛙平均每天一共能吃（　　）只害虫。青蛙平均每天比啄木鸟多吃（　　）只害虫。

关注微信公众号“教辅资料站”获取更多学习资料

练习3　含有括号的混合运算

用时：___分___秒　错误：　个

A组　常规口算题

44 ×2 =	41 ×4 =	(13 +22) ×2 =
90 ×50 =	60 ÷5 =	330 ÷(19 −16) =
53 ×3 =	17 ×40 =	35 ×2 +47 =
360 ÷4 =	78 ×3 =	43 ×(21 −19) =
112 ×3 =	72 ÷3 =	120 −(45 +25) =
22 ×40 =	40 ×16 =	124 ÷(22 −20) =
402 ×2 =	116 ×2 =	98 −25 ×2 =
75 ÷5 =	909 ÷3 =	(21 +11) ×2 =
76 ×3 =	120 ×3 =	140 ÷7 +45 =
37 ×20 =	60 ×80 =	(20 +20) ÷8 =
84 ×4 =	120 ÷5 =	120 ÷2 −12 =
96 ÷6 =	92 ×4 =	47 +(70 −26) =
511 ×7 =	30 ×27 =	63 ÷(47 −38) =
204 ÷2 =	355 ÷5 =	48 ÷(3 ×2) =
126 ×3 =	76 ×4 =	80 ×(20 −13) =
357 ÷7 =	415 ×2 =	480 −(90 +30) =

B组　变式口算题

1. 计算：(450 +50) ×4　　360 ÷(2 ×3)　　740 −(28 +42)

2. 某水果店上午卖出苹果 46 千克，下午卖出苹果 64 千克，若每千克苹果 5 元钱，则该水果店一天卖苹果共收入(　　)元。

3. 王师傅 3 天一共加工了 476 个零件，第一天加工了 144 个，第二天加工了 156 个，第三天加工了(　　)个。

关注微信公众号“教辅资料站”获取更多学习资料

练习4 习题课

用时：___分___秒 错误：　个

A组 常规口算题

23 ×4 =	(72 +18) ÷2 =	69 ÷3 −20 =
90 ×60 =	21 ×3 +27 =	56 +(174 −44) =
112 ×4 =	50 ×4 +20 =	72 ÷8 ×12 =
720 ÷9 =	70 ÷5 −10 =	56 ÷(4 ×2) =
14 ×30 =	240 ÷6 ÷5 =	26 ÷2 +50 =
506 ×7 =	274 −(24 +76) =	25 ×4 ×8 =
78 ÷6 =	16 ×4 +50 =	13 ×(25 −15) =
82 ×4 =	121 ×3 −63 =	12 ×6 ÷4 =
23 ×30 =	(110 −88) ÷2 =	62 ×2 −24 =
65 ÷5 =	77 ×2 +100 =	35 ×(8 ÷4) =
77 ×3 =	56 +25 ×2 =	70 −48 ÷4 =
141 ×3 =	100 −96 ÷6 =	20 ×3 ÷4 =
427 ÷7 =	20 ×(20 +3) =	75 +5 ×11 =
15 ×50 =	56 ÷7 ×8 =	279 +(45 +55) =
245 ×2 =	50 +75 ×2 =	(200 +350) ÷5 =
480 ÷3 =	(40 +32) ÷8 =	80 +45 ×6 =

B组 变式口算题

1. 计算：349 −128 ×2　　(571 −126) ÷5　　88 ×(257 −248)

2. 比较大小。

20 ×5 +4 ◯ 20 ×(5 +4)　　174 −24 ÷6 ◯ (174 −24) ÷6

237 −(75 −26) ◯ 237 −75 −26　　324 −24 ×5 ◯ (324 −24) ×5

3. 一本书480页，已经看了120页，剩下的要9天看完，平均每天看(　　)页。

关注微信公众号“教辅资料站”获取更多学习资料

第四单元口算能力测试

用时：____分____秒　错误：　个

A组　常规口算题

43 ×2 =	480 −120 ×2 =	(72 −40) ÷8 =
121 ×3 =	(120 −75) ÷5 =	6 ×(31 −11) =
72 ÷2 =	20 ×3 ×12 =	400 +(45 +133) =
76 ×2 =	20 ×(13 +12) =	12 ×(40 ÷5) =
23 ×30 =	75 −66 ÷3 =	17 ×5 ×10 =
48 ×3 =	81 ÷(21 −12) =	240 ÷8 ×7 =
440 ÷4 =	12 ×5 ×7 =	196 −16 ×6 =
90 ×30 =	70 ×(20 ÷4) =	766 −(120 +80) =
28 ×20 =	400 ÷8 ×9 =	100 +32 ×3 =
104 ×3 =	450 ÷(3 ×3) =	30 ×2 +45 =
65 ÷5 =	145 −13 ×5 =	210 +99 ÷3 =
84 ×5 =	35 ×2 ×4 =	45 ×2 ×9 =
30 ×14 =	380 −(120 +150) =	320 ÷(4 ×2) =
306 ÷6 =	80 −90 ÷3 =	75 +4 ×20 =
345 ×2 =	30 ×2 ÷4 =	36 ×2 ÷8 =
459 ÷9 =	485 −(45 +135) =	39 ÷(17 −14) =

B组　变式口算题

1. 三(1)班同学扎了420朵花，分给幼儿园的9个班，还剩150朵。平均每个班分得(　　)朵花。

2. 一袋油菜35千克，8袋西红柿240千克(每袋西红柿的质量都相等)，一袋西红柿比一袋油菜少(　　)千克。

3. 水果店有苹果、梨、橘子和香蕉，每千克苹果3元，每千克梨2元，每千克橘子4元，每千克香蕉5元，买8千克苹果和4千克梨，应付(　　)元，买7千克橘子和5千克香蕉，应付(　　)元。

关注微信公众号“教辅资料站”获取更多学习资料

难易等级：

练习1 年、月、日（一）

用时：____分____秒　错误：　个

A组 常规口算题

13 ×4 =	101 ×2 =	47 ×5 =
112 ×3 =	18 ×30 =	29 ×20 =
420 ÷6 =	53 ×3 =	52 ×4 =
13 ×40 =	606 ÷3 =	300 ÷5 =
47 ×3 =	80 ×80 =	113 ×4 =
77 ÷7 =	46 ×2 =	17 ×40 =
56 ×2 =	720 ÷8 =	511 ×5 =
22 ×30 =	55 ×3 =	60 ×90 =
46 ÷2 =	116 ×2 =	96 ÷3 =
90 ×40 =	44 ×20 =	412 ×2 =
706 ×5 =	47 ×4 =	21 ×30 =
42 ÷3 =	76 ×5 =	316 ×3 =
31 ×20 =	72 ÷2 =	840 ÷7 =
216 ×3 =	318 ×3 =	505 ×6 =
637 ÷7 =	422 ×4 =	126 ÷3 =
711 ×7 =	546 ÷6 =	712 ×4 =

B组 变式口算题

1. 2 年 =（　　）月　　3 个大月 =（　　）天　　3 分 =（　　）秒

　7 时 =（　　）分　　3 年 =（　　）月　　2 个小月 =（　　）天

2.（1）教师节是（　　）月（　　）日，国庆节是（　　）月（　　）日。

（2）8 月份有（　　）天，是（　　）个星期零（　　）天。

（3）国际儿童节是（　　）月（　　）日，它的前一天是（　　）月（　　）日，它所在的这个月份的最后一天是（　　）月（　　）日。

关注微信公众号“教辅资料站”获取更多学习资料

练习2　年、月、日（二）

用时：___分___秒　错误：　个

A组　常规口算题

14 ×3 =	47 ×2 =	24 +（56 −13）=
13 ×40 =	36 ÷2 =	7 ×（57 −27）=
33 ×4 =	14 ×20 =	25 ×4 ×8 =
420 ÷7 =	115 ×3 =	88 ÷（24 −20）=
124 ×2 =	96 ÷3 =	14 ×4 ÷7 =
51 ×30 =	78 ×3 =	5 ×（27 +13）=
78 ÷2 =	71 ×20 =	13 ×4 +9 =
51 ×5 =	80 ×70 =	98 −17 ×4 =
68 ×3 =	120 ÷2 =	（77 −20）×2 =
355 ÷5 =	46 ×5 =	420 ÷7 ×5 =
33 ×20 =	31 ×30 =	450 ÷9 +63 =
171 ×3 =	33 ×8 =	30 ×2 ×6 =
70 ×90 =	96 ÷2 =	70 ÷（21 −14）=
459 ÷9 =	116 ×2 =	7 ×（20 +30）=
406 ×4 =	418 ×2 =	30 ×3 ÷5 =
316 ×3 =	408 ÷8 =	56 −56 ÷7 =

B组　变式口算题

连一连。

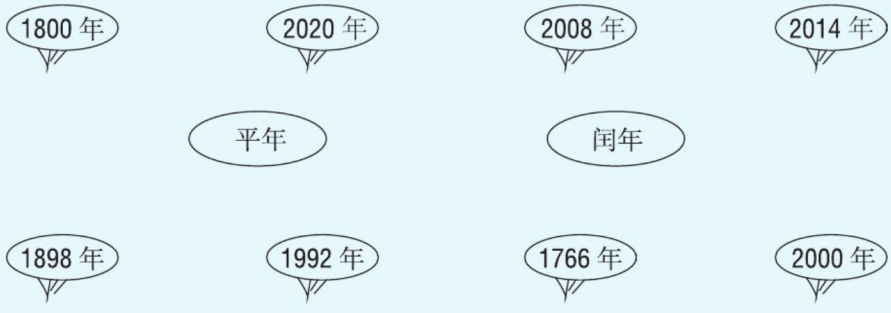

关注微信公众号“教辅资料站”获取更多学习资料

练习3 习题课

用时：___分___秒 错误：　个

A组 常规口算题

11 ×8 =	18 ×5 =	63 ×3 =
116 ×2 =	42 ×20 =	306 ÷3 =
96 ÷3 =	123 ×4 =	71 ×4 =
14 ×30 =	448 ÷2 =	27 ×20 =
43 ×3 =	47 ×9 =	55 ×8 =
408 ÷2 =	60 ×80 =	72 ÷2 =
90 ×20 =	84 ÷2 =	143 ×3 =
55 ×6 =	38 ×4 =	70 ×50 =
75 ÷3 =	15 ×30 =	99 ÷9 =
132 ×4 =	75 ÷5 =	132 ×2 =
25 ×30 =	75 ×6 =	31 ×40 =
96 ÷6 =	17 ×40 =	86 ×3 =
47 ×5 =	450 ÷3 =	65 ÷5 =
121 ×5 =	114 ×4 =	27 ×5 =
568 ÷8 =	316 ×3 =	147 ×2 =
415 ×2 =	364 ÷4 =	637 ÷7 =

B组 变式口算题

1. 根据条件猜生日。

（1）小红：我的生日是第三季度的最后一天。(　　)

（2）小青：我的生日是闰年2月的最后一天。(　　)

（3）小丽：我的生日是劳动节的前一天。(　　)

（4）小明：我的生日是8月份的最后一天。(　　)

2. 2018年后面三个连续的闰年是(　　)年、(　　)年、(　　)年。

关注微信公众号“教辅资料站”获取更多学习资料

练习4　24时记时法的认识

用时：____分____秒　错误：　个

A组　常规口算题

17 ×4 =	75 ×2 =	◆ 用24时记时法表示。
63 ×3 =	66 ÷2 =	上午8:30(　　)
112 ×2 =	406 ×2 =	下午4:20(　　)
42 ÷2 =	80 ×80 =	下午7:30(　　)
48 ×3 =	121 ×3 =	上午8时(　　)
17 ×30 =	78 ÷3 =	下午3:50(　　)
96 ×4 =	77 ×6 =	下午5时(　　)
75 ÷3 =	18 ×40 =	上午9:35(　　)
126 ×2 =	56 ×3 =	晚上9时(　　)
47 ×4 =	560 ÷4 =	下午4:35(　　)
164 ÷4 =	71 ×5 =	上午11:30(　　)
502 ×4 =	316 ×3 =	晚上10时(　　)
19 ×20 =	729 ÷9 =	中午11:35(　　)
712 ×4 =	418 ×2 =	上午8:40(　　)
603 ÷3 =	52 ×30 =	晚上12时(　　)

B组　变式口算题

1. 将24时记时法改为普通记时法。

15:40(　　)　　9:25(　　)　　14:15(　　)

20:20(　　)　　23:15(　　)　　18:30(　　)

2. 你能给下面的钟面画上时针吗？



3:00



14:00



17:00



20:00

关注微信公众号“教辅资料站”获取更多学习资料

练习5 简单的经过时间的计算

用时：___分___秒 错误：　个

A组 常规口算题

90 ×50 =	71 ×4 =	◆ 计算经过的时间。
17 ×2 =	48 ×20 =	8:00 ~ 12:00(　　)
72 ÷2 =	28 ×3 =	7:30 ~ 15:30(　　)
47 ×8 =	76 ÷4 =	6:00 ~ 7:15(　　)
47 ×20 =	30 ×80 =	8:30 ~ 20:30(　　)
116 ×2 =	23 ×40 =	7:00 ~ 15:00(　　)
488 ÷4 =	115 ×3 =	5:35 ~ 6:00(　　)
171 ×3 =	84 ÷6 =	5:00 ~ 17:30(　　)
33 ×40 =	506 ×7 =	9:30 ~ 21:30(　　)
48 ×4 =	33 ×30 =	上午8时 ~ 下午2时(　　)
84 ÷7 =	48 ×5 =	6:30 ~ 15:30(　　)
56 ×7 =	105 ÷7 =	7:30 ~ 8:05(　　)
52 ×20 =	113 ×4 =	10:30 ~ 22:30(　　)
316 ×3 =	88 ×4 =	上午10时 ~ 下午3时(　　)
960 ÷8 =	366 ÷6 =	11:30 ~ 23:30(　　)
456 ÷3 =	712 ×4 =	上午9时 ~ 下午5时(　　)

B组 变式口算题

1. 医生做手术从上午10:00一直做到下午5:00，这台手术共用了(　　)小时。

2. 李叔叔坐火车14:00出发，23:00到达目的地，李叔叔途中用了(　　)小时。

3. 海底世界上午9:00开馆，下午4:30闭馆，每天的开放时间是(　　)。

4. 亮亮晚上9:30上床睡觉，第二天早上7:00起床。亮亮的睡眠时间是(　　)小时(　　)分钟。

关注微信公众号“教辅资料站”获取更多学习资料

练习6　习题课

用时：____分____秒　错误：　个

A组　常规口算题

	◆ 用24时记时法表示。	◆ 计算经过的时间。
17×3=	上午8:30(　　)	8:00～15:00(　　)
112×2=	下午3:35(　　)	9:00～13:30(　　)
42÷3=	下午4时(　　)	上午7时～下午3时(　　)
45×3=	上午9时(　　)	7:35～8:00(　　)
14×30=	中午11:30(　　)	9:00～18:00(　　)
90×60=	下午7:00(　　)	8:30～14:30(　　)
72÷2=	晚上9时(　　)	上午9时～下午6时(　　)
76×4=	下午4:30(　　)	7:30～15:30(　　)
15×30=	上午9:25(　　)	10:00～19:00(　　)
711×5=	下午3:20(　　)	9:50～10:10(　　)
85÷5=	下午2时(　　)	4:00～14:00(　　)
41×6=	晚上11时(　　)	上午10时～下午8时(　　)
17×40=	上午7时(　　)	7:35～8:35(　　)
84÷7=	下午4:50(　　)	8:00～17:30(　　)
361×2=	晚上11:30(　　)	9:30～14:30(　　)
426÷6=		

B组　变式口算题

下面是一家快餐店的营业时间，先仔细观察，再回答问题：

1. 这家快餐店上午营业了(　　)小时(　　)分钟，这家快餐店每天共营业(　　)小时(　　)分钟。

2. 小华18:00去这家快餐店，能吃到快餐吗？

答：(　　)。

营业时间：
上午　6:00～8:30
中午　11:00～1:00
下午　5:30～7:30

关注微信公众号“教辅资料站”获取更多学习资料

第五单元口算能力测试

用时：___分___秒 错误：　个

A组 常规口算题

17 ×8 =	101 ×8 =	360 −45 ×2 =
18 ×20 =	80 ×60 =	(47 +17) ÷8 =
450 ÷5 =	36 ×3 =	7 ×12 −9 =
123 ×3 =	64 ÷4 =	466 +(142 +58) =
90 ×80 =	48 ×5 =	88 −13 ×5 =
108 ÷9 =	46 ×20 =	36 ×2 ÷8 =
27 ×30 =	115 ×2 =	45 ×(4 ÷2) =
84 ×4 =	75 ÷5 =	3 ×30 ×9 =
106 ×6 =	96 ×2 =	79 −320 ÷8 =
96 ÷8 =	51 ×30 =	318 −(412 −312) =
78 ×3 =	47 ×5 =	35 ×(19 −17) =
38 ×20 =	330 ÷6 =	90 ÷3 ÷6 =
609 ÷3 =	118 ×3 =	7 ×(25 +35) =
69 ×3 =	16 ×40 =	480 ÷8 ×5 =
315 ×3 =	729 ÷9 =	78 ÷(24 −18) =
423 ÷3 =	416 ×2 =	(36 +62) ÷2 =

B组 变式口算题

1. CCTV5 从 19:30 开始直播一场足球赛，到 21:15 比赛结束，这场比赛共直播(　　)小时(　　)分钟。
2. 爸爸和涵涵开车去奶奶家，他们上午 10:00 出发，下午 1:00 到达。爸爸开车每小时行 80 千米。涵涵家和奶奶家相距(　　)千米。
3. 小明在姥姥家连续住了两个月，正好是 62 天，这两个月是(　　)月和(　　)月。
4. 下列年份是闰年的是(　　)。

A. 1800 年　　B. 1964 年　　C. 2015 年　　D. 2018 年

关注微信公众号“教辅资料站”获取更多学习资料

第六单元 长方形和正方形的面积

练习1 面积的认识

用时：____分____秒　错误：　个

A组 常规口算题

450 ÷5 =	150 ×4 =	16 ×5 =
130 ×2 =	648 ÷6 =	88 ÷4 =
232 ×3 =	72 ÷4 =	390 ÷3 =
36 ×20 =	17 ×40 =	7 ×24 =
357 ÷7 =	800 ÷2 =	270 ×2 =
48 ×4 =	76 ×4 =	180 ×5 =
488 ÷8 =	92 ÷2 =	78 ÷6 =
53 ×30 =	433 ×3 =	630 ÷7 =
65 ÷5 =	520 ÷5 =	36 ×30 =
320 ×3 =	18 ×50 =	963 ÷3 =
48 ×20 =	315 ×3 =	139 ×2 =
78 ×3 =	570 ×2 =	355 ÷5 =
306 ×6 =	936 ÷9 =	190 ×4 =
96 ÷4 =	22 ×6 =	246 ÷3 =
13 ×8 =	340 ×2 =	515 ÷5 =
981 ÷9 =	868 ÷2 =	115 ×5 =

B组 变式口算题

下面的图形，(　　)面积最大，(　　)面积最小。

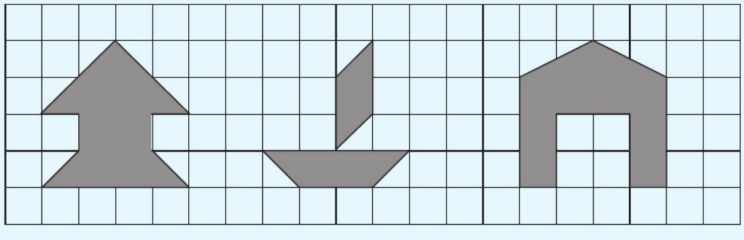

(1)　　(2)　　(3)

关注微信公众号“教辅资料站”获取更多学习资料

练习2 面积单位

用时：___分___秒 错误：　个

A组 常规口算题

20 ×5 =	170 ×3 =	408 ÷8 =
480 ÷3 =	41 ×4 =	26 ×30 =
72 ×6 =	55 ÷5 =	111 ×9 =
540 ÷9 =	510 ×3 =	160 ×5 =
150 ×4 =	96 ÷4 =	51 ÷3 =
77 ×2 =	52 ×30 =	612 ÷3 =
313 ×2 =	190 ×4 =	43 ×7 =
150 ×6 =	369 ÷3 =	73 ×4 =
92 ×30 =	94 ×2 =	24 ×40 =
119 ×5 =	248 ÷8 =	98 ÷7 =
60 ÷4 =	33 ×7 =	812 ×3 =
357 ÷7 =	530 ÷5 =	87 ÷3 =
37 ×50 =	642 ÷6 =	330 ×3 =
806 ÷2 =	370 ×2 =	490 ÷7 =
420 ÷4 =	214 ×4 =	123 ÷3 =
448 ×2 =	13 ×60 =	92 ×20 =

B组 变式口算题

1. 在(　　)里填上合适的单位名称。

(1)大拇指指甲的面积大约是1(　　)。

(2)数学课本封面的面积约是360(　　)。

(3)一个广场的面积约是4500(　　)。

(4)一台电视屏幕的面积约是24(　　)。

(5)一张方桌桌面的面积约是144(　　)。

2. 用8个面积是1平方分米的正方形拼成一个长方形，这个长方形的面积是(　　)。

关注微信公众号“教辅资料站”获取更多学习资料

练习3　习题课

用时：____分____秒　错误：　个

A组　常规口算题

490 ÷7 =	94 ÷2 =	426 −(420 −120) =
108 ×9 =	170 ×3 =	13 ×(15 +25) =
150 ×4 =	568 ÷8 =	13 ×6 −8 =
84 ÷3 =	12 ×50 =	48 ÷(9 ÷3) =
318 ×3 =	93 ÷3 =	400 −80 ×3 =
15 ×30 =	324 ÷3 =	(35 +29) ÷8 =
55 ÷5 =	16 ×40 =	720 ÷8 −45 =
19 ×40 =	105 ×4 =	750 −(144 +156) =
804 ÷2 =	420 ÷7 =	210 +15 ×6 =
70 ×90 =	45 ×3 =	17 ×5 +15 =
26 ×30 =	21 ×40 =	80 ×(17 −9) =
426 ÷6 =	27 ×3 =	485 −17 ×5 =
410 ×3 =	213 ×4 =	720 ÷9 ÷4 =
46 ×6 =	160 ÷5 =	120 ÷2 +45 =
78 ÷3 =	30 ×51 =	360 −60 ÷3 =
17 ×40 =	18 ×20 =	240 ÷(4 ×2) =

B组　变式口算题

1. 下面是用面积为1平方厘米的小正方形拼成的图形，请分别写出它们的周长和面积。

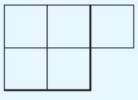

周长：(　　)cm　面积：(　　)cm^2

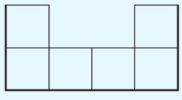

周长：(　　)cm　面积：(　　)cm^2

2. 下面每个小正方形的边长都是1 cm，在方格纸中画出两个面积都是10 cm^2的不同图形。

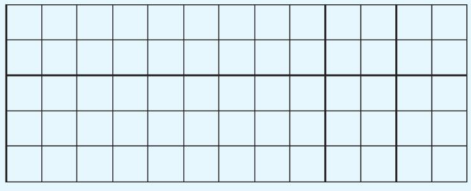

关注微信公众号“教辅资料站”获取更多学习资料

练习4 面积的计算

用时：___分___秒 错误：　个

A组 常规口算题

◆ 求下列长方形的周长或面积。

长=15 m，宽=4 m，面积=(　　)m^2

长=12 cm，宽=10 cm，面积=(　　)cm^2

长=40 m，宽=35 m，周长=(　　)m

长=12 dm，宽=8 dm，面积=(　　)dm^2

长=9 cm，宽=4 cm，周长=(　　) cm

长=24 dm，宽=3 dm，面积=(　　)dm^2

长=6 dm，宽=3 dm，周长=(　　)dm

长=12 cm，宽=8 cm，面积=(　　)cm^2

长=40 m，宽=22 m，面积=(　　)m^2

长=15 dm，宽=12 dm，周长=(　　)dm

长=27 cm，宽=10 cm，面积=(　　)cm^2

长=50 m，宽=30 m，面积=(　　)m^2

长=130 dm，宽=4 dm，面积=(　　)dm^2

长=7 m，宽=5 m，周长=(　　)m

长=13 cm，宽=9 cm，面积=(　　)cm^2

长=45 dm，宽=5 dm，周长=(　　)m

◆ 求下列正方形的周长或面积。

边长=7 m，面积=(　　)m^2

边长=10 cm，面积=(　　)cm^2

边长=24 dm，周长=(　　)dm

边长=11 m，周长=(　　)m

边长=9 m，面积=(　　)m^2

边长=8 dm，面积=(　　)dm^2

边长=20 cm，面积=(　　)cm^2

边长=21 dm，周长=(　　)dm

边长=11 cm，面积=(　　)cm^2

边长=30 dm，周长=(　　)dm

边长=17 m，周长=(　　)m

边长=40 cm，面积=(　　)cm^2

边长=50 cm，周长=(　　)cm

边长=5 cm，面积=(　　)cm^2

边长=6 dm，周长=(　　)dm

边长=22 cm，周长=(　　)cm

B组 变式口算题

1. 同学们制作的数学手抄报长55 cm，宽40 cm，面积是(　　)cm^2。

2. 一块正方形草坪边长为4米，它的面积是(　　)平方米，周长是(　　)米。

3. 铺1平方米草坪需要5元，现在铺一块长45米、宽20米的长方形草坪需要花(　　)元。

4. 花园内有一块正方形草坪，周长为36米，它的面积是(　　)平方米。

5. 一个正方形鱼池，占地面积为25平方米，鱼池的周长是(　　)米。

关注微信公众号“教辅资料站”获取更多学习资料

练习5　面积的计算习题课

用时：____分____秒　错误：　个

A组　常规口算题

◆ 求下列长方形的周长或面积。

长＝15 dm，宽＝3 dm，面积＝(　　) dm^2

长＝30 cm，宽＝15 cm，面积＝(　　) cm^2

长＝6 m，宽＝4 m，周长＝(　　) m

长＝14 dm，宽＝7 dm，面积＝(　　) dm^2

长＝5 dm，宽＝4 dm，周长＝(　　) dm

长＝24 cm，宽＝20 cm，面积＝(　　) cm^2

长＝16 cm，宽＝10 cm，面积＝(　　) cm^2

长＝16 dm，宽＝5 dm，面积＝(　　) dm^2

长＝14 cm，宽＝5 cm，面积＝(　　) cm^2

长＝16 dm，宽＝6 dm，面积＝(　　) dm^2

长＝22 dm，宽＝20 dm，面积＝(　　) dm^2

长＝9 cm，宽＝6 cm，周长＝(　　) cm

长＝20 cm，宽＝15 cm，面积＝(　　) cm^2

长＝13 dm，宽＝12 dm，周长＝(　　) dm

长＝15 m，宽＝10 m，面积＝(　　) m^2

长＝21 cm，宽＝20 cm，面积＝(　　) cm^2

◆ 求下列正方形的周长或面积。

边长＝8 m，面积＝(　　) m^2

边长＝10 cm，面积＝(　　) cm^2

边长＝5 m，面积＝(　　) m^2

边长＝24 cm，周长＝(　　) cm

边长＝4 cm，面积＝(　　) cm^2

边长＝15 dm，周长＝(　　) dm

边长＝9 dm，面积＝(　　) dm^2

边长＝20 cm，面积＝(　　) cm^2

边长＝16 m，周长＝(　　) m

边长＝6 cm，面积＝(　　) dm^2

边长＝11 m，面积＝(　　) m^2

边长＝25 cm，周长＝(　　) cm

边长＝30 dm，面积＝(　　) dm^2

边长＝50 m，周长＝(　　) m

边长＝23 cm，周长＝(　　) cm

B组　变式口算题

1. 客厅的一面墙长6米，宽3米，墙上有一扇小窗，面积是1平方米。现在要粉刷这面墙壁，要粉刷的面积是(　　)平方米。

2. 从一个长10分米、宽7分米的长方形纸上剪下一个最大的正方形，剪下的正方形面积是(　　)平方分米，剩下部分的面积是(　　)平方分米。

3. 一块地长40米，宽15米，在这块地里种辣椒，如果每平方米收辣椒6千克，一共可以收(　　)千克辣椒。

关注微信公众号“教辅资料站”获取更多学习资料

练习6 面积的单位换算

用时：____分____秒 错误：　个

A组 常规口算题

3 平方米 =（　　）平方分米
6 平方分米 =（　　）平方厘米
300 平方分米 =（　　）平方米
（　　）平方分米 =4 平方米
（　　）平方分米 =300 平方厘米
200 平方分米 =（　　）平方米
30 平方米 =（　　）平方分米
（　　）平方厘米 =7 平方分米
（　　）平方分米 =600 平方厘米
1 平方米 =（　　）平方分米
200 平方厘米 =（　　）平方分米
（　　）平方米 =700 平方分米
（　　）平方分米 =4 平方米
（　　）平方厘米 =12 平方分米
（　　）平方分米 =50 平方米
14 平方分米 =（　　）平方厘米

1 平方分米 =（　　）平方厘米
400 平方厘米 =（　　）平方分米
600 平方分米 =（　　）平方米
7 平方米 =（　　）平方分米
8 平方米 =（　　）平方分米
（　　）平方厘米 =9 平方分米
（　　）平方分米 =1100 平方厘米
40 平方分米 =（　　）平方厘米
15 平方分米 =（　　）平方厘米
100 平方分米 =（　　）平方米
（　　）平方分米 =37 平方米
（　　）平方分米 =500 平方厘米
21 平方米 =（　　）平方分米
（　　）平方分米 =9 平方米
（　　）平方厘米 =8 平方分米
34 平方米 =（　　）平方分米

B组 变式口算题

1. 一张长方形桌面长 20 分米，宽 5 分米，这张长方形桌面的面积是（　　）平方分米，合（　　）平方米。
2. 在一块长 30 米、宽 15 米的长方形地里种西红柿，若每平方米种西红柿 8 株，一共可以种西红柿（　　）株。
3. 公园里有形状分别为长方形和正方形的两个花圃，已知它们的周长相等，长方形花圃长 32 分米，宽 8 分米，长方形花圃的面积是（　　）平方分米，正方形花圃的边长是（　　）分米，面积是（　　）平方分米，合（　　）平方米。

关注微信公众号“教辅资料站”获取更多学习资料

练习7　面积的单位换算习题课

用时：____分____秒　错误：　个

A组　常规口算题

5 平方分米 =（　　）平方厘米
600 平方厘米 =（　　）平方分米
4 平方米 =（　　）平方分米
1 平方米 =（　　）平方分米
700 平方厘米 =（　　）平方分米
10 平方分米 =（　　）平方厘米
（　　）平方厘米 =3 平方分米
2 平方米 =（　　）平方分米
（　　）平方分米 =1400 平方厘米
（　　）平方分米 =1700 平方厘米
23 平方米 =（　　）平方分米
4300 平方厘米 =（　　）平方分米
2000 平方分米 =（　　）平方米
900 平方分米 =（　　）平方米
42 平方分米 =（　　）平方厘米
（　　）平方分米 =3 平方米
（　　）平方分米 =9 平方米
（　　）平方分米 =400 平方厘米
（　　）平方分米 =200 平方厘米
8 平方米 =（　　）平方分米
1200 平方分米 =（　　）平方米
22 平方分米 =（　　）平方厘米
4 平方分米 =（　　）平方厘米
3500 平方厘米 =（　　）平方分米
600 平方分米 =（　　）平方米
1000 平方厘米 =（　　）平方分米
77 平方米 =（　　）平方分米
800 平方厘米 =（　　）平方分米
（　　）平方分米 =100 平方厘米
200 平方分米 =（　　）平方米
25 平方米 =（　　）平方分米
30 平方分米 =（　　）平方厘米

B组　变式口算题

1. 妈妈在长方形餐桌上铺了一块和餐桌大小相等的透明玻璃纤维板，餐桌桌面长 90 厘米，宽 50 厘米，这块透明玻璃纤维板的面积是（　　）平方厘米，合（　　）平方分米。

2. 有两个完全一样的长方形，长 40 厘米，宽 20 厘米。
   （1）用这两个长方形拼成一个大长方形，拼成的大长方形的面积是（　　）平方分米，周长是（　　）厘米。
   （2）用这两个长方形拼成一个正方形，面积是（　　）平方分米，周长是（　　）厘米。

关注微信公众号“教辅资料站”获取更多学习资料

练习8 复 习

用时：___分___秒 错误：　个

A组 常规口算题

◆ 求下列长方形的周长或面积。

长=17 dm，宽=8 dm，面积=(　　)dm^2

长=20 dm，宽=15 dm，面积=(　　)dm^2

长=5 cm，宽=3 cm，周长=(　　)cm

长=12 dm，宽=9 dm，面积=(　　)dm^2

长=18 m，宽=10 m，面积=(　　)m^2

长=11 cm，宽=7 cm，面积=(　　)cm^2

长=15 cm，宽=5 cm，周长=(　　)cm

长=16 m，宽=8 m，面积=(　　)m^2

长=12 cm，宽=7 cm，面积=(　　)cm^2

长=30 dm，宽=25 dm，面积=(　　)dm^2

长=7 dm，宽=4 dm，周长=(　　)dm

长=22 m，宽=20 m，面积=(　　)m^2

长=35 m，宽=30 m，面积=(　　)m^2

长=15 m，宽=7 m，周长=(　　)m

长=21 dm，宽=10 dm，面积=(　　)dm^2

◆ 求下列正方形的周长或面积。

边长=4 m，面积=(　　)m^2

边长=28 dm，周长=(　　)dm

边长=11 cm，周长=(　　)cm

边长=20 dm，面积=(　　)dm^2

边长=6 dm，面积=(　　)dm^2

边长=9 cm，面积=(　　)cm^2

边长=50 cm，面积=(　　)cm^2

边长=36 cm，周长=(　　)cm

边长=3 dm，面积=(　　)dm^2

边长=2 m，面积=(　　)m^2

边长=16 dm，周长=(　　)dm

边长=71 cm，周长=(　　)cm

边长=8 cm，面积=(　　)cm^2

边长=10 dm，面积=(　　)dm^2

边长=29 dm，周长=(　　)dm

B组 变式口算题

1. 计算下面图形的面积。(单位：厘米)

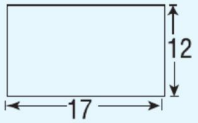

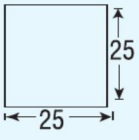

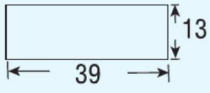

面积：(　　)平方厘米　面积：(　　)平方厘米　面积：(　　)平方厘米

2. 一块长方形地毯，长90厘米，宽60厘米，面积是(　　)平方厘米，合(　　)平方分米。

关注微信公众号“教辅资料站”获取更多学习资料

第六单元口算能力测试

用时：____分____秒　错误：　个

A组 常规口算题

2 平方米 =（　　）平方分米　　44 平方米 =（　　）平方分米

3 平方分米 =（　　）平方厘米　　10 平方米 =（　　）平方分米

400 平方分米 =（　　）平方米　　8 平方分米 =（　　）平方厘米

100 平方厘米 =（　　）平方分米　　7 平方米 =（　　）平方分米

6 平方米 =（　　）平方分米　　500 平方厘米 =（　　）平方分米

700 平方厘米 =（　　）平方分米　　600 平方分米 =（　　）平方米

14 平方分米 =（　　）平方厘米　　1100 平方分米 =（　　）平方米

20 平方米 =（　　）平方分米　　19 平方米 =（　　）平方分米

4000 平方厘米 =（　　）平方分米　　700 平方分米 =（　　）平方米

800 平方分米 =（　　）平方米　　13 平方分米 =（　　）平方厘米

11 平方米 =（　　）平方分米　　50 平方米 =（　　）平方分米

5 平方分米 =（　　）平方厘米　　3500 平方厘米 =（　　）平方分米

9 平方米 =（　　）平方分米　　6000 平方分米 =（　　）平方米

1200 平方厘米 =（　　）平方分米　　800 平方厘米 =（　　）平方分米

15 平方米 =（　　）平方分米　　900 平方分米 =（　　）平方米

25 平方分米 =（　　）平方厘米　　45 平方米 =（　　）平方分米

B组 变式口算题

1. 一张方桌，桌面的边长为 8 分米，给方桌面配一块大小相等的桌布，桌布的面积是（　　）平方分米，合（　　）平方厘米，要在桌布四周缝上花边，至少需要准备（　　）分米长的花边。

2. 有一块长 15 米、宽 4 米的长方形花生地，平均每平方米能收 3 千克花生，这块地一共能收花生（　　）千克。

3. 用一根铁丝正好围成了一个长 8 厘米、宽 2 厘米的长方形，如果用这根铁丝改围成一个最大的正方形，则这个正方形的面积是（　　）平方厘米。

关注微信公众号“教辅资料站”获取更多学习资料

练习1　认识几分之一（一）

用时：____分____秒　错误：　个

A组 常规口算题

22 ×20 =
50 ×50 =
18 ×4 =
147 ÷7 =
96 ÷3 =
124 ×2 =
183 ÷3 =
60 ×60 =
34 ×30 =
23 ×5 =
48 ÷4 =
220 ÷4 =
33 ×7 =
114 ×3 =
264 ÷6 =
406 ×2 =

◆ 比较大小。

$\frac{7}{10}$ ○ $\frac{3}{10}$
$\frac{5}{6}$ ○ $\frac{4}{6}$
$\frac{1}{3}$ ○ $\frac{1}{4}$
$\frac{3}{4}$ ○ $\frac{3}{4}$
$\frac{1}{9}$ ○ $\frac{7}{9}$
$\frac{1}{6}$ ○ $\frac{1}{7}$
$\frac{2}{7}$ ○ $\frac{5}{7}$
$\frac{3}{5}$ ○ $\frac{2}{5}$
$\frac{1}{8}$ ○ $\frac{1}{5}$

$\frac{3}{6}+\frac{2}{6}=$
$\frac{3}{5}+\frac{1}{5}=$
$\frac{9}{10}-\frac{7}{10}=$
$\frac{2}{7}+\frac{3}{7}=$
$\frac{1}{4}+\frac{1}{4}=$
$\frac{2}{3}-\frac{1}{3}=$
$\frac{5}{8}+\frac{1}{8}=$
$\frac{3}{10}+\frac{6}{10}=$
$\frac{5}{6}-\frac{5}{6}=$
$\frac{1}{4}+\frac{2}{4}=$
$\frac{5}{7}-\frac{4}{7}=$
$\frac{6}{8}-\frac{3}{8}=$

B组 变式口算题

用分数表示下列各图中的阴影部分。


（　　）
（　　）

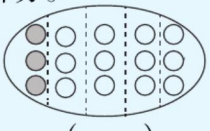
（　　）
（　　）


（　　）
（　　）

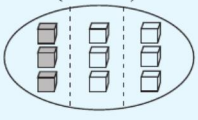
（　　）
（　　）

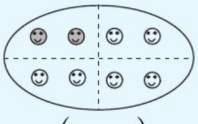
（　　）
（　　）

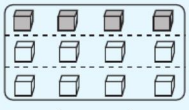
（　　）
（　　）

关注微信公众号“教辅资料站”获取更多学习资料

练习2　认识几分之一（二）

用时：____分____秒　错误：　个

A组　常规口算题

12 ×3 =
72 ×4 =
126 ÷2 =
123 ×2 =
996 ÷3 =
17 ×40 =
84 ×2 =
70 ×60 =
53 ×3 =
18 ×20 =
116 ×3 =
560 ÷7 =
50 ×80 =
214 ×3 =
546 ÷6 =
123 ×3 =

◆ 比较大小。

$\frac{1}{4}$ ○ $\frac{1}{5}$
$\frac{3}{7}$ ○ $\frac{4}{7}$
$\frac{1}{8}$ ○ $\frac{1}{7}$
$\frac{2}{8}$ ○ $\frac{6}{8}$
$\frac{1}{6}$ ○ $\frac{1}{3}$
$\frac{5}{8}$ ○ $\frac{3}{8}$
$\frac{1}{5}$ ○ $\frac{1}{6}$
$\frac{4}{9}$ ○ $\frac{5}{9}$
$\frac{1}{9}$ ○ $\frac{1}{5}$

$\frac{1}{3}+\frac{1}{3}=$
$\frac{3}{4}-\frac{2}{4}=$
$\frac{4}{8}+\frac{3}{8}=$
$\frac{7}{9}-\frac{2}{9}=$
$\frac{6}{7}-\frac{3}{7}=$
$\frac{3}{6}+\frac{2}{6}=$
$\frac{1}{5}+\frac{3}{5}=$
$\frac{8}{10}-\frac{4}{10}=$
$\frac{4}{9}+\frac{2}{9}=$
$\frac{1}{8}+\frac{6}{8}=$
$\frac{5}{7}-\frac{3}{7}=$
$\frac{3}{8}+\frac{3}{8}=$

B组　变式口算题

1. 下面苹果的$\frac{1}{3}$是多少个？



□ ÷ □ = □（个）

2. 下面香蕉的$\frac{1}{5}$是多少个？



□ ÷ □ = □（个）

3. 下面苹果的$\frac{1}{6}$是多少个？



□ ÷ □ = □（个）

4. 下面兔子的$\frac{1}{4}$是多少只？



□ ÷ □ = □（只）

关注微信公众号“教辅资料站”获取更多学习资料

练习3 认识几分之几（一）

用时：___分___秒 错误：　个

A组 常规口算题

42 ×2 =
45 ÷3 =
23 ×30 =
124 ×2 =
52 ×3 =
96 ÷3 =
46 ×20 =
116 ×3 =
90 ×60 =
248 ÷2 =
34 ×20 =
207 ×4 =
567 ÷7 =
70 ×80 =
45 ×3 =
407 ×2 =

◆ 比较大小。

$\frac{1}{5}$ ○ $\frac{1}{6}$
$\frac{5}{7}$ ○ $\frac{3}{7}$
$\frac{1}{7}$ ○ $\frac{1}{4}$
$\frac{5}{8}$ ○ $\frac{6}{8}$
$\frac{1}{8}$ ○ $\frac{1}{9}$
$\frac{4}{6}$ ○ $\frac{2}{6}$
$\frac{1}{3}$ ○ $\frac{1}{2}$
$\frac{3}{4}$ ○ $\frac{1}{4}$
$\frac{1}{4}$ ○ $\frac{1}{8}$

$\frac{1}{8}+\frac{4}{8}=$
$\frac{2}{7}+\frac{3}{7}=$
$\frac{6}{9}-\frac{3}{9}=$
$\frac{5}{6}-\frac{2}{6}=$
$\frac{4}{7}+\frac{1}{7}=$
$\frac{5}{10}+\frac{4}{10}=$
$\frac{8}{9}-\frac{6}{9}=$
$\frac{3}{7}+\frac{3}{7}=$
$\frac{1}{4}+\frac{2}{4}=$
$\frac{5}{8}-\frac{1}{8}=$
$\frac{7}{9}-\frac{5}{9}=$
$\frac{4}{6}+\frac{1}{6}=$

B组 变式口算题

涂色表示下面的分数。



$\frac{2}{3}$



$\frac{4}{5}$

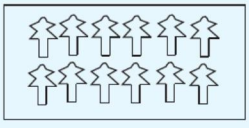

$\frac{5}{6}$



$\frac{3}{4}$

关注微信公众号“教辅资料站”获取更多学习资料

练习4　认识几分之几（一）习题课

用时：____分____秒　错误：　个

A组　常规口算题

◆ 比较大小。

$\frac{1}{3}$ ◯ $\frac{1}{4}$　　$\frac{1}{2}$ ◯ $\frac{1}{3}$　　$\frac{3}{4}$ ◯ $\frac{3}{4}$

$\frac{7}{8}$ ◯ $\frac{5}{8}$　　$\frac{5}{9}$ ◯ $\frac{7}{9}$　　$\frac{2}{3}$ ◯ $\frac{1}{3}$

$\frac{4}{5}$ ◯ $\frac{3}{5}$　　$\frac{1}{7}$ ◯ $\frac{1}{5}$　　$\frac{1}{9}$ ◯ $\frac{1}{10}$

$\frac{3}{8}$ ◯ $\frac{2}{8}$　　$\frac{6}{7}$ ◯ $\frac{6}{7}$

$\frac{1}{3}+\frac{1}{3}=$　　$\frac{3}{4}-\frac{1}{4}=$　　$\frac{2}{4}+\frac{1}{4}=$

$\frac{1}{7}+\frac{5}{7}=$　　$\frac{3}{7}+\frac{1}{7}=$　　$\frac{8}{9}-\frac{5}{9}=$

$\frac{1}{6}+\frac{3}{6}=$　　$\frac{4}{10}+\frac{3}{10}=$　　$\frac{3}{7}+\frac{2}{7}=$

$\frac{4}{5}-\frac{4}{5}=$　　$\frac{7}{8}-\frac{2}{8}=$　　$\frac{1}{4}+\frac{1}{4}=$

1分米 = $\frac{(\quad)}{(\quad)}$米　　2角 = $\frac{(\quad)}{(\quad)}$元　　4厘米 = $\frac{(\quad)}{(\quad)}$分米

8分米 = $\frac{(\quad)}{(\quad)}$米　　5角 = $\frac{(\quad)}{(\quad)}$元　　4角 = $\frac{(\quad)}{(\quad)}$元

9厘米 = $\frac{(\quad)}{(\quad)}$分米　　7角 = $\frac{(\quad)}{(\quad)}$元　　6分米 = $\frac{(\quad)}{(\quad)}$米

2分米 = $\frac{(\quad)}{(\quad)}$米　　5厘米 = $\frac{(\quad)}{(\quad)}$分米　　3角 = $\frac{(\quad)}{(\quad)}$元

B组　变式口算题

1. 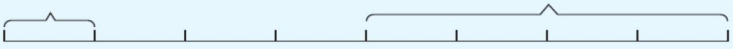

把一条线段平均分成8份，1份是它的$\frac{(\quad)}{(\quad)}$，4份是它的$\frac{(\quad)}{(\quad)}$。

2. ☆☆☆☆☆☆☆☆☆

1个☆占这些星星的$\frac{(\quad)}{(\quad)}$，5个☆占这些星星的$\frac{(\quad)}{(\quad)}$。

关注微信公众号“教辅资料站”获取更多学习资料

练习5 认识几分之几（二）

用时：___分___秒 错误：　个

A组 常规口算题

$\frac{9}{10}-\frac{7}{10}=$

$\frac{1}{5}+\frac{1}{5}=$

$\frac{3}{8}-\frac{1}{8}=$

$\frac{6}{8}-\frac{4}{8}=$

$\frac{2}{4}+\frac{1}{4}=$

$\frac{7}{9}+\frac{1}{9}=$

$\frac{1}{10}+\frac{3}{10}=$

$\frac{6}{7}-\frac{3}{7}=$

$\frac{4}{6}+\frac{1}{6}=$

$\frac{1}{6}+\frac{3}{6}=$

$\frac{1}{3}+\frac{1}{3}=$

$\frac{6}{7}-\frac{4}{7}=$

◆ 比较大小。

$\frac{1}{3}$ ◯ $\frac{2}{3}$

$\frac{9}{10}$ ◯ $\frac{9}{10}$

$\frac{4}{5}$ ◯ $\frac{3}{5}$

$\frac{2}{7}$ ◯ $\frac{3}{7}$

$\frac{1}{5}$ ◯ $\frac{1}{3}$

$\frac{2}{9}$ ◯ $\frac{7}{9}$

$\frac{8}{10}$ ◯ $\frac{6}{10}$

$\frac{1}{3}$ ◯ $\frac{1}{2}$

$\frac{1}{8}$ ◯ $\frac{1}{10}$

1角 = $\frac{(\quad)}{(\quad)}$元

2厘米 = $\frac{(\quad)}{(\quad)}$分米

9角 = $\frac{(\quad)}{(\quad)}$元

9分米 = $\frac{(\quad)}{(\quad)}$米

6厘米 = $\frac{(\quad)}{(\quad)}$分米

7分米 = $\frac{(\quad)}{(\quad)}$米

8角 = $\frac{(\quad)}{(\quad)}$元

4厘米 = $\frac{(\quad)}{(\quad)}$分米

3厘米 = $\frac{(\quad)}{(\quad)}$分米

2角 = $\frac{(\quad)}{(\quad)}$元

5分米 = $\frac{(\quad)}{(\quad)}$米

1分米 = $\frac{(\quad)}{(\quad)}$米

B组 变式口算题

1.



这些蜜蜂的$\frac{3}{4}$是多少只？

□ ÷ □ × □ = □（　　）

2.

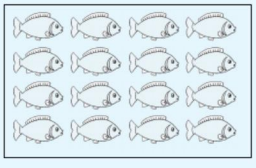

这些鱼的$\frac{3}{4}$是多少条？

□ ÷ □ × □ = □（　　）

关注微信公众号“教辅资料站”获取更多学习资料

练习6　认识几分之几（二）习题课

用时：____分____秒　错误：　个

A组　常规口算题

◆ 比较大小。

$\frac{1}{3}$ ◯ $\frac{1}{4}$　$\frac{3}{4}$ ◯ $\frac{2}{4}$　$\frac{1}{5}$ ◯ $\frac{1}{7}$　$\frac{3}{5}$ ◯ $\frac{4}{5}$　$\frac{1}{8}$ ◯ $\frac{1}{9}$　$\frac{4}{6}$ ◯ $\frac{5}{6}$　$\frac{1}{4}$ ◯ $\frac{1}{6}$　$\frac{4}{7}$ ◯ $\frac{3}{7}$　$\frac{1}{7}$ ◯ $\frac{1}{6}$　$\frac{2}{8}$ ◯ $\frac{7}{8}$　$\frac{1}{7}$ ◯ $\frac{1}{8}$

$\frac{1}{4}+\frac{2}{4}=$　$\frac{1}{5}+\frac{2}{5}=$　$\frac{5}{6}-\frac{3}{6}=$　$\frac{4}{7}-\frac{1}{7}=$　$\frac{1}{3}+\frac{1}{3}=$　$\frac{2}{6}+\frac{3}{6}=$　$\frac{5}{6}-\frac{1}{6}=$　$\frac{6}{7}-\frac{3}{7}=$　$\frac{1}{8}+\frac{6}{8}=$　$\frac{4}{7}+\frac{2}{7}=$　$\frac{8}{9}-\frac{6}{9}=$　$\frac{7}{8}-\frac{2}{8}=$

5分米 = $\frac{(\quad)}{(\quad)}$米　4角 = $\frac{(\quad)}{(\quad)}$元　7分米 = $\frac{(\quad)}{(\quad)}$米　6厘米 = $\frac{(\quad)}{(\quad)}$分米　3角 = $\frac{(\quad)}{(\quad)}$元　4分米 = $\frac{(\quad)}{(\quad)}$米　6分米 = $\frac{(\quad)}{(\quad)}$米　5角 = $\frac{(\quad)}{(\quad)}$元　9厘米 = $\frac{(\quad)}{(\quad)}$分米　8分米 = $\frac{(\quad)}{(\quad)}$米　2角 = $\frac{(\quad)}{(\quad)}$元　5厘米 = $\frac{(\quad)}{(\quad)}$分米

B组　变式口算题

1. 小鸡的$\frac{1}{5}$是(　　)只。



2. 草莓的$\frac{2}{3}$是(　　)个。



3. 三角形的$\frac{5}{8}$是(　　)个。



4. 爸爸今年36岁，妈妈的年龄是爸爸的$\frac{8}{9}$，小明的年龄是妈妈的$\frac{1}{4}$，妈妈今年(　　)岁，小明今年(　　)岁。

关注微信公众号“教辅资料站”获取更多学习资料

第七单元口算能力测试

用时：___分___秒 错误：　个

A组 常规口算题

◆ 比较大小。

$\frac{1}{7}$ ○ $\frac{1}{8}$

$\frac{2}{8}$ ○ $\frac{5}{8}$

$\frac{1}{5}$ ○ $\frac{1}{6}$

$\frac{3}{7}$ ○ $\frac{2}{7}$

$\frac{1}{4}$ ○ $\frac{1}{3}$

$\frac{3}{4}$ ○ $\frac{2}{4}$

$\frac{1}{2}$ ○ $\frac{1}{9}$

$\frac{4}{5}$ ○ $\frac{3}{5}$

$\frac{1}{4}$ ○ $\frac{1}{6}$

$\frac{2}{8}$ ○ $\frac{6}{8}$

$\frac{1}{3}+\frac{1}{3}=$

$\frac{2}{4}+\frac{1}{4}=$

$\frac{4}{5}-\frac{2}{5}=$

$\frac{3}{6}-\frac{1}{6}=$

$\frac{4}{7}+\frac{2}{7}=$

$\frac{3}{8}+\frac{3}{8}=$

$\frac{4}{6}-\frac{1}{6}=$

$\frac{6}{7}-\frac{4}{7}=$

$\frac{3}{8}+\frac{4}{8}=$

$\frac{5}{9}+\frac{2}{9}=$

$\frac{7}{8}-\frac{2}{8}=$

$\frac{5}{7}-\frac{1}{7}=$

1 分 = $\frac{(\quad)}{(\quad)}$ 角

2 分米 = $\frac{(\quad)}{(\quad)}$ 米

3 厘米 = $\frac{(\quad)}{(\quad)}$ 分米

5 分米 = $\frac{(\quad)}{(\quad)}$ 米

7 角 = $\frac{(\quad)}{(\quad)}$ 元

4 分米 = $\frac{(\quad)}{(\quad)}$ 米

8 厘米 = $\frac{(\quad)}{(\quad)}$ 分米

4 角 = $\frac{(\quad)}{(\quad)}$ 元

7 厘米 = $\frac{(\quad)}{(\quad)}$ 分米

6 分米 = $\frac{(\quad)}{(\quad)}$ 米

3 角 = $\frac{(\quad)}{(\quad)}$ 元

7 分米 = $\frac{(\quad)}{(\quad)}$ 米

B组 变式口算题

1. 先按要求拿一拿，再列式计算。

(1) 拿出 8 个苹果的$\frac{3}{4}$，拿出了几个苹果？

___

(2) 拿出 12 个苹果的$\frac{3}{4}$，拿出了几个苹果？

___

(3) 拿出 16 个苹果的$\frac{3}{4}$，拿出了几个苹果？

___

2. 先在钟面上分一分，涂一涂，再解答问题。

(1) 1 小时的$\frac{2}{3}$是多少分钟？



___

(2) 1 小时的$\frac{2}{6}$是多少分钟？



___

关注微信公众号“教辅资料站”获取更多学习资料

第八单元 小数的初步认识

练习1 小数的意义和读写

用时：___分___秒　错误：　个

A组 常规口算题

123 ×3 =	$\frac{2}{5}+\frac{1}{5}=$	◆ 读出下面的小数。
45 ×2 =	$\frac{3}{5}-\frac{1}{5}=$	0.5(　　)
23 ×20 =	$\frac{1}{6}+\frac{4}{6}=$	1.4(　　)
560 ÷7 =	$\frac{3}{5}+\frac{1}{5}=$	0.8(　　)
70 ×80 =	$\frac{4}{7}+\frac{2}{7}=$	2.3(　　)
117 ×3 =	$\frac{6}{8}-\frac{3}{8}=$	3.5(　　)
33 ×30 =	$\frac{4}{7}-\frac{2}{7}=$	4.6(　　)
78 ÷3 =	$\frac{5}{9}-\frac{3}{9}=$	0.9(　　)
90 ×50 =	$\frac{1}{4}+\frac{1}{4}=$	7.3(　　)
412 ×2 =	$\frac{2}{6}+\frac{3}{6}=$	8.2(　　)
42 ×20 =	$\frac{7}{8}-\frac{2}{8}=$	2.1(　　)
58 ×3 =	$\frac{8}{9}-\frac{1}{9}=$	9.6(　　)
819 ÷9 =		6.9(　　)
307 ×3 =		5.2(　　)
303 ÷3 =		7.4(　　)
416 ×2 =		4.7(　　)

B组 变式口算题

1. 在括号里填上合适的数。

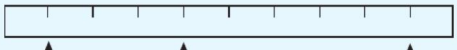

1分米　　4分米　　(　　)分米

$\frac{1}{10}$米　　(　　)米　　(　　)米

0.1 米　　(　　)米　　(　　)米

2. 分别用分数和小数表示图中的涂色部分。



分数(　　)　(　　)　(　　)

小数(　　)　(　　)　(　　)

关注微信公众号“教辅资料站”获取更多学习资料

练习2 小数的大小比较

用时：___分___秒 错误：　个

A组 常规口算题

43 ×3 =	47 ×2 =	◆ 比较大小。
450 ÷5 =	50 ×90 =	0.6 ◯ 0.9
12 ×40 =	82 ÷2 =	4.7 ◯ 7.4
116 ×2 =	124 ×2 =	0.5 ◯ 1.5
90 ×60 =	32 ×30 =	0.8 ◯ 0.7
48 ÷3 =	506 ×3 =	6.5 ◯ 5.6
23 ×30 =	90 ×70 =	3.6 ◯ 4.7
120 ×5 =	64 ÷4 =	0.5 ◯ 0.7
50 ×40 =	25 ×30 =	2.8 ◯ 3.1
408 ×2 =	722 ×3 =	8.3 ◯ 3.8
24 ×20 =	60 ×60 =	0.8 ◯ 0.6
555 ÷5 =	93 ×3 =	4.7 ◯ 2.2
522 ×3 =	17 ×20 =	5.4 ◯ 4.5
70 ×80 =	568 ÷8 =	0.5 ◯ 0.3
147 ×2 =	148 ×2 =	3.3 ◯ 4.3
637 ÷7 =	808 ÷4 =	4.9 ◯ 5.1

B组 变式口算题

1. 根据涂色部分写出小数，再比较大小。

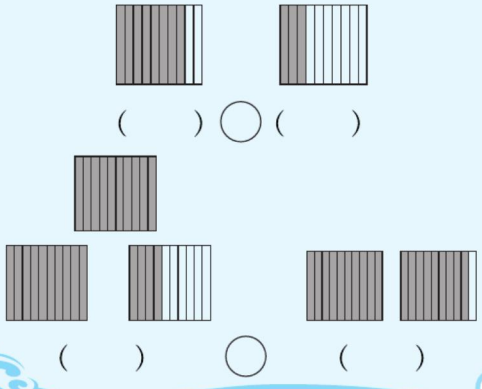

( ) ◯ ( )

( ) ◯ ( )

2. 先在□里填上合适的小数，再将这些小数从大到小排列。

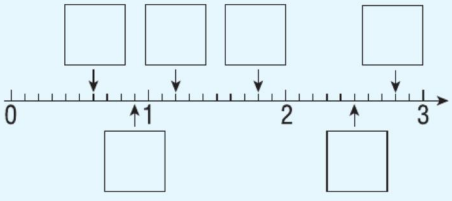

关注微信公众号“教辅资料站”获取更多学习资料

练习3　简单的小数加减法

用时：____分____秒　错误：　个

A组　常规口算题

7.5 −3.3 =	4.3 +5.5 =	3.7 −2.4 =
0.6 +0.5 =	7.6 +2.3 =	5.1 +1.5 =
5.8 −1.6 =	8.8 −6.6 =	9.9 −6.6 =
3.4 +4.1 =	7.5 −4.5 =	3.3 +2.3 =
5.4 −2.5 =	9.2 −1.2 =	1.7 −0.8 =
6.6 −0.5 =	4.3 +4.5 =	1.5 +1.5 =
7.1 +2.6 =	1.9 +2.1 =	6.8 −3.4 =
3.4 −1.2 =	0.7 +4.5 =	7.7 −0.8 =
4.9 −4.3 =	1.1 +8.2 =	6.5 −3.5 =
5.5 +3.2 =	4.9 −3.6 =	7.3 +2.5 =
7.9 −2.8 =	3.1 +1.3 =	2.2 +1.4 =
9.8 −8.8 =	2.6 +6.3 =	9.7 −8.6 =
2.4 +4.7 =	8.2 −2.2 =	5.8 +1.1 =
8.1 −1.2 =	6.2 +2.5 =	3.9 −2.7 =
9.4 −2.3 =	0.8 +1.2 =	9.4 +0.3 =

B组　变式口算题

1.

6.2	7.3	2.9	3.5
−1.7	−3.7	+4.7	+5.6
□.□	□.□	□.□	□.□

2.



4.8 元/本



3.4 元/本

(1)买一本《童话故事》和一本《动脑筋》一共要花(　　)元。

(2)买一本《童话故事》比买一本《动脑筋》多花(　　)元。

关注微信公众号“教辅资料站”获取更多学习资料

练习4 习题课

用时：___分___秒 错误：　个

A组 常规口算题

◆ 比较大小。

1.6 ◯ 1.5

2.4 ◯ 2.5

0.3 ◯ 1.3

1.8 ◯ 1.6

3.7 ◯ 3.9

1.4 ◯ 4.2

5.2 ◯ 2.5

6.8 ◯ 8.6

0.5 ◯ 1.5

1.1 ◯ 1.8

2.2 ◯ 1.2

7.5 ◯ 7.6

0.1 +0.3 =
2.3 +0.4 =
1.8 +0.1 =
3.3 −0.2 =
5.8 −2.4 =
2.1 +3.6 =
4.2 −2.1 =
5.5 +2.3 =
4.5 −0.6 =
3.2 +1.8 =
5.4 −0.3 =
6.9 −2.7 =
8.8 +1.1 =
9.6 −4.5 =
6.5 −0.9 =
2.2 +1.9 =

3.1 +2.2 =
0.4 +1.4 =
5.2 +0.3 =
4.6 −0.5 =
5.1 +2.7 =
1.6 −1.5 =
2.5 −0.4 =
8.6 −4.5 =
7.2 +2.3 =
1.1 +3.3 =
9.6 −6.5 =
4.1 +2.4 =
5.8 −2.6 =
7.6 −0.7 =
8.5 −1.4 =
4.6 +3.3 =

B组 变式口算题

1. 根据每组数的排列规律，接着往下写。

(1)0.2,0.4,0.6,0.8,(　　),(　　)。

(2)0.5,0.8,1.1,1.4,(　　),(　　)。

(3)4.9,4.2,3.5,2.8,(　　),(　　)。

2. 一条绳子长8.3米，用去1.7米后，还剩(　　)米。

3. 小华家五月份的煤气费是40.3元，六月份比五月份多用2.4元，小华家六月份的煤气费是(　　)元。

4. 爸爸比儿子高4.2分米，妈妈比儿子高3.3分米。爸爸比妈妈高(　　)分米。

关注微信公众号“教辅资料站”获取更多学习资料

第八单元口算能力测试

用时：____分____秒　错误：　个

A组 常规口算题

◆ 比较大小。

0.1 ◯ 0.3

1.5 ◯ 5.5

2.1 ◯ 1.1

4 ◯ 0.4

5.1 ◯ 6.1

4.4 ◯ 4.3

6.7 ◯ 7.6

8.3 ◯ 8.5

5.4 ◯ 5.3

6.6 ◯ 6.7

8.2 ◯ 9.2

1.7 ◯ 1.8

0.8 +1.2 =	6.9 −6.3 =	4.5 −4.1 =
1.8 +1.2 =	3.7 −3.5 =	2.1 +1.9 =
3.5 −1.8 =	5.2 +2.6 =	7.4 −1.3 =
9.8 −6.4 =	4.4 +4.4 =	2.1 +5.5 =
6.6 −3.4 =	1.7 +1.7 =	5.6 −2.9 =
4.3 −1.3 =		

1.2 +1.3 =	2.2 +5.6 =	0.5 +7.1 =
1.8 +8.1 =	9.9 −4.4 =	4.3 +2.6 =
3.1 +1.6 =	5.5 −2.4 =	4.6 +0.3 =
7.1 +1.3 =	6.6 −4.2 =	5.2 −2.5 =
7.9 −6.7 =	4.3 −1.1 =	2.7 +3.1 =
1.7 +2.7 =		

B组 变式口算题

富春“放心早餐”价格表

菜包:1.2 元/个	烧麦:1.3 元/个
豆沙包:0.7 元/个	油糕:1.5 元/个
肉包:1.5 元/个	油条:1.2 元/根
米粥:1 元/碗	牛奶:3.5 元/杯

1. 买一个菜包和一个豆沙包一共(　　)元。
2. 买一个烧麦和一根油条一共(　　)元。
3. 一个肉包比一个菜包贵(　　)元。
4. 一个肉包比一个烧麦贵(　　)元。

关注微信公众号“教辅资料站”获取更多学习资料

第九单元 数据的收集和整理（二）

练习1 数据的分类和汇总

用时：____分____秒　错误：　个

A组 常规口算题

12 ×6 =	120 ×8 =	0.2 +0.8 =
450 ÷9 =	828 ÷2 =	1.1 +1.5 =
663 ÷3 =	18 ×50 =	2.3 −2.2 =
24 ×20 =	72 ÷3 =	3.5 −1.3 =
84 ×2 =	301 ×7 =	0.6 +0.7 =
142 ×2 =	211 ×6 =	5.1 −2.4 =
455 ÷5 =	46 ×8 =	3.3 +4.3 =
35 ×4 =	420 ×3 =	4.6 −2.8 =
505 ÷5 =	34 ×7 =	3.1 +1.8 =
130 ×5 =	70 ×80 =	2.9 −2.7 =
27 ×30 =	440 ÷8 =	7.6 +2.3 =
126 ÷6 =	105 ×6 =	8.8 −5.7 =
106 ×7 =	5 ×71 =	9.6 −0.8 =
305 ×5 =	520 ÷5 =	4.3 +5.6 =
45 ×2 =	112 ×7 =	1.8 +2.4 =
118 ×4 =	105 ×5 =	4.6 +3.5 =

B组 变式口算题

红星小学三年级四个班男、女生人数统计表如下：

班级	一		二		三		四	
性别	男	女	男	女	男	女	男	女
人数	15	21	22	14	25	20	18	23

将左面的数据按男、女生分类，将下表补充完整，看看男生多还是女生多。

性别	男	女
人数		

(　　)生多。

关注微信公众号“教辅资料站”获取更多学习资料

练习2　数据的简单分析

用时：____分____秒　错误：　个

A组　常规口算题

21 ×8 =	1.3 +1.5 =	2.4 +2.5 =
856 ÷8 =	2.6 −0.8 =	1.6 +0.6 =
92 ×40 =	4.4 −4.1 =	7.4 −4.7 =
240 ×2 =	2.9 +3.1 =	0.9 +1.2 =
202 ×4 =	9.7 −1.8 =	1.4 −0.8 =
83 ×3 =	5.4 +2.6 =	2.2 −1.6 =
124 ×4 =	1.1 +8.8 =	3.4 +4.5 =
84 ÷7 =	7.7 −0.9 =	1.3 +0.8 =
23 ×20 =	3.2 +6.7 =	3.5 −1.7 =
5 ×210 =	4.5 −3.5 =	5.2 +0.9 =
939 ÷3 =	1.6 +8.3 =	7.8 −6.9 =
357 ÷7 =	5.1 −1.1 =	8.5 −4.5 =
302 ×6 =	2.3 +3.3 =	2.4 +5.5 =
87 ×3 =	4.1 +5.7 =	6.8 −2.8 =
74 ×3 =	3.8 +6.1 =	7.5 −6.7 =
32 ×50 =	7.9 −6.3 =	2.1 −0.3 =

B组　变式口算题

下表是小丽收集的12名同学期末考试的数学成绩。

编号	成绩/分	编号	成绩/分	编号	成绩/分	编号	成绩/分
01	87	04	90	07	93	10	91
02	95	05	100	08	96	11	88
03	84	06	92	09	55	12	79

1. 这些同学中最好成绩是(　　)分，最差成绩是(　　)分。这两个成绩相差(　　)分。
2. 如果成绩在85分或85分以上为优秀，60分以下为不及格，那么这12名同学中有(　　)位同学的成绩达到优秀，有(　　)位同学的成绩不及格。

关注微信公众号“教辅资料站”获取更多学习资料

练习3 习题课

用时：___分___秒 错误：　个

A组 常规口算题

40 ×13 =	110 ×7 =	1.3 +2.6 =
75 ÷5 =	720 ÷3 =	4.4 −3.5 =
88 ×2 =	38 ×20 =	6.7 −1.7 =
27 ×4 =	81 ÷3 =	5.8 −2.9 =
609 ÷3 =	51 ×5 =	0.4 +7.2 =
14 ×30 =	42 ×20 =	0.6 +9.1 =
848 ÷8 =	310 ×4 =	9.2 −1.4 =
202 ×4 =	211 ×7 =	3.8 +4.2 =
123 ×4 =	760 ÷2 =	3.6 −2.9 =
816 ÷8 =	95 ×5 =	6.3 −5.5 =
92 ×4 =	23 ×4 =	7.5 −4.3 =
19 ×30 =	160 ÷5 =	2.5 +2.8 =
208 ÷4 =	450 ×2 =	3.6 −1.5 =
248 ×2 =	78 ×4 =	4.7 +1.8 =
170 ×4 =	780 ÷6 =	0.7 +5.5 =
260 ×2 =	12 ×80 =	3.6 −1.7 =

B组 变式口算题

下表是小华同学调查的本班9名男生的体重情况(年龄分别为9岁或10岁)。

序号	体重/千克	序号	体重/千克	序号	体重/千克
1	34	4	33	7	30
2	33	5	31	8	36
3	24	6	29	9	32

1. 这9名男生中体重最重的是(　　)千克,最轻的是(　　)千克,相差(　　)千克。

2. 我国正常儿童9~10岁的标准体重在27~35千克之间,这些同学中体重不标准的有(　　)个。

关注微信公众号“教辅资料站”获取更多学习资料

第九单元口算能力测试

用时：____分____秒　错误：　个

A组 常规口算题

14 ×20 =	3.8 −1.9 =	0.4 +1.2 =
94 ×2 =	0.6 +2.6 =	1.1 +1.8 =
87 ÷3 =	1.7 +3.4 =	4.4 +5.5 =
27 ×20 =	7.4 −2.3 =	6.6 −4.6 =
369 ÷3 =	5.8 −5.6 =	2.9 −0.5 =
321 ×3 =	4.6 −1.6 =	3.1 −0.2 =
427 ÷7 =	0.3 +5.7 =	1.5 −0.3 =
35 ×5 =	0.2 +3.4 =	1.8 +3.6 =
56 ÷4 =	8.9 −7.7 =	2.3 +5.7 =
92 ×40 =	4.1 +5.1 =	9.3 −3.6 =
47 ×6 =	7.1 +1.1 =	4.3 +1.2 =
260 ×3 =	4.6 −2.3 =	5.8 −1.6 =
408 ÷8 =	5.5 +1.2 =	3.6 +1.7 =
131 ×2 =	3.3 −1.6 =	3.3 −2.2 =
49 ×7 =	4.5 +1.6 =	5.8 −2.2 =
106 ×5 =	3.4 −1.7 =	4.7 +1.9 =

B组 变式口算题

下面是三(1)班学生的作业成绩。

(单位:分)

90	84	98	100	82	59
89	70	85	79	97	88
87	99	81	85	75	92
78	82	91	94	76	69
95	65	86	66	83	98

1. 把左面的数据按分数分类,填一填。

分数	90 ~ 100	70 ~ 89	60 ~ 69	60 以下	合计
等级	A	B	C	D	
人数					

2. 这些学生的成绩最好的是(　　)分。

3. 观察上面的表格,分数等级在B及B以上的学生有(　　)人。

关注微信公众号“教辅资料站”获取更多学习资料

难易等级：

练习1 两位数乘两位数

用时：____分____秒　错误：　个

A组 常规口算题

18 ×40 =	54 ×20 =	14 ×5 ×5 =
23 ×7 =	15 ×5 =	17 ×8 +4 =
17 ×60 =	55 ×2 =	12 ×5 ×8 =
148 ×2 =	39 ×20 =	17 ×2 +66 =
75 ×2 =	234 ×2 =	12 ×3 ×2 =
83 ×3 =	63 ×20 =	16 ×5 ×9 =
80 ×90 =	96 ×2 =	51 ×2 −52 =
12 ×80 =	80 ×20 =	33 ×3 −45 =
117 ×3 =	55 ×4 =	35 ×2 ×7 =
25 ×30 =	611 ×4 =	54 ×3 −62 =
33 ×30 =	39 ×10 =	44 ×2 +12 =
47 ×2 =	58 ×20 =	45 ×2 ×6 =
512 ×4 =	7 ×33 =	73 ×3 +11 =
62 ×2 =	81 ×4 =	62 ×10 −310 =
77 ×2 =	13 ×70 =	55 ×2 ×7 =
64 ×20 =	348 ×2 =	71 ×4 −84 =

B组 变式口算题

1. 用竖式计算。

70 ×38 =　　48 ×56 =　　37 ×80 =　　78 ×43 =

2. 学校有24个足球，排球的个数是足球的2倍，篮球的个数是排球的3倍，学校有篮球(　　)个。

关注微信公众号“教辅资料站”获取更多学习资料

练习2　千米和吨

用时：____分____秒　错误：　个

A组　常规口算题

27 ×30 =	85 ×2 =	7000 千克 =（　　）吨
27 ×5 =	33 ×30 =	8 千米 =（　　）米
40 ×13 =	45 ×20 =	6 吨 =（　　）千克
121 ×4 =	314 ×2 =	3 米 =（　　）厘米
51 ×40 =	67 ×2 =	7 千克 =（　　）克
39 ×2 =	804 ×3 =	5000 米 =（　　）千米
26 ×4 =	71 ×40 =	700 厘米 =（　　）米
23 ×30 =	420 ×2 =	3 吨 =（　　）千克
512 ×3 =	13 ×60 =	8000 千克 =（　　）吨
76 ×3 =	24 ×30 =	5 米 =（　　）分米
78 ×20 =	47 ×4 =	7000 克 =（　　）千克
119 ×4 =	50 ×14 =	3 千米 =（　　）米
11 ×70 =	22 ×20 =	7 吨 =（　　）千克
12 ×80 =	56 ×3 =	6000 米 =（　　）千米
408 ×3 =	43 ×30 =	8 米 =（　　）厘米
99 ×2 =	322 ×4 =	2000 千克 =（　　）吨

B组　变式口算题

1. 星星小学开展“我爱班级，净化校园”活动。如果每人每月回收废纸2千克，照这样计算，三（1）班的50名同学10个月能回收废纸（　　）千克，合（　　）吨。

2. 学校组织三年级小朋友去公园游玩，汽车从学校出发，8分钟到达公园，汽车平均每分钟行驶500米，学校到公园有（　　）千米。

3. 用载重量为4吨的卡车，6次可以运完一批货物，如果改用载重量为8000千克的卡车运，需要运（　　）次就能运完。

关注微信公众号“教辅资料站”获取更多学习资料

练习3 解决问题的策略

用时：___分___秒 错误：　个

A组 常规口算题

40 ×5 =	320 ÷4 =	420 +150 −230 =
98 ÷7 =	42 ×6 =	16 ×4 +18 =
804 ÷2 =	130 ×5 =	360 ÷4 −45 =
42 ×3 =	81 ×4 =	360 −150 −40 =
45 ÷3 =	26 ×30 =	720 ÷9 ×4 =
23 ×20 =	480 ÷3 =	12 ×5 ×11 =
92 ×2 =	214 ×4 =	420 ÷7 ÷3 =
24 ×4 =	37 ×20 =	480 −150 +70 =
48 ×20 =	310 ×3 =	25 ×4 ×8 =
459 ÷9 =	324 ÷3 =	360 ÷9 ÷2 =
168 ÷4 =	35 ×4 =	17 +253 −100 =
140 ×3 =	121 ×4 =	36 ×2 +18 =
606 ×8 =	57 ×3 =	48 ÷3 +15 =
82 ×2 =	633 ×3 =	75 ÷5 +65 =
55 ×20 =	25 ×4 =	17 ×2 ×2 =
136 ×2 =	450 ÷3 =	435 +65 +135 =

B组 变式口算题

1. 学校舞蹈队有女生 42 人，男生比女生少 18 人。舞蹈队一共有(　　)人。
2. 小华一家开车去相距 336 千米的姥姥家，汽车平均每小时行驶 65 千米，行驶 3 小时还剩下(　　)千米。
3. 一个足球 38 元，一个篮球 35 元。买 4 个足球和 1 个篮球一共(　　)元。买 2 个篮球比 1 个足球多花(　　)元。
4. 超市运来花生油 28 箱，大豆油的箱数是花生油的 2 倍。大豆油和花生油一共有(　　)箱，大豆油比花生油多(　　)箱。

关注微信公众号“教辅资料站”获取更多学习资料

练习4　混合运算

用时：___分___秒　错误：　个

A组　常规口算题

72 ×20 =	480 ÷8 ÷2 =	560 ÷8 −34 =
113 ×3 =	540 ÷(2 ×3) =	280 +35 ×20 =
48 ÷3 =	30 ×5 ×4 =	15 ×4 ×30 =
160 ×4 =	(36 −24) ×6 =	250 ÷(18 −13) =
76 ×3 =	49 +12 ×3 =	37 +540 ÷6 =
47 ×3 =	540 −(220 −90) =	42 ×5 ÷7 =
27 ×30 =	36 ×2 ÷9 =	34 ×2 −51 =
108 ×5 =	(55 −15) ×12 =	74 ×(5 ×4) =
440 ÷2 =	420 ÷(58 −51) =	(15 +14) ×30 =
42 ×4 =	44 +150 ×3 =	540 ÷9 ÷2 =
63 ×30 =	510 −16 ×30 =	360 ÷(3 ×2) =
35 ×4 =	(428 −128) ÷6 =	490 ÷7 ÷7 =
426 ÷6 =	64 +24 ×5 =	630 ÷(3 ×3) =
95 ×2 =	25 ×4 −37 =	546 −(45 +175) =
300 ÷5 =	210 ÷7 ÷2 =	366 ÷3 −14 =
15 ×50 =	12 ×5 ×13 =	12 ×50 ÷3 =

B组　变式口算题

1. 脱式计算。

476 −(156 +127)　　36 ×(142 −81)　　436 +567 ÷7

2. 工程队修一条长 830 米的公路，修了 3 天，平均每天修 85 米，还剩下(　　)米没修。列式为_____。

3. 三年级学生去植树，计划一共植 420 棵，现在已经植了 120 棵，剩下的要在 6 天内完成，平均每天至少要植(　　)棵。列式为_____。

关注微信公众号“教辅资料站”获取更多学习资料

练习5 年、月、日

用时：___分___秒 错误：　个

A组 常规口算题

17 ×4 =	◆ 用 24 时记时法表示。	◆ 计算经过的时间。
28 ×20 =	下午 1 时(　　)	7:00 ~ 17:00(　　)
72 ÷6 =	上午 8 时(　　)	8:30 ~ 15:30(　　)
112 ×4 =	上午 7:30(　　)	上午 8 时 ~ 下午 5 时(　　)
306 ÷3 =	下午 3:30(　　)	9:00 ~ 17:30(　　)
56 ×3 =	下午 5:25(　　)	10:00 ~ 20:00(　　)
84 ÷4 =	晚上 8:50(　　)	5:30 ~ 10:30(　　)
78 ×4 =	早上 5:00(　　)	6:00 ~ 16:30(　　)
28 ×30 =	上午 8:45(　　)	上午 10 时 ~ 晚上 10 时(　　)
56 ×4 =	中午 12:00(　　)	7:00 ~ 16:30(　　)
366 ÷2 =	下午 6 时(　　)	8:00 ~ 20:00(　　)
78 ×3 =	下午 4:25(　　)	9:30 ~ 21:30(　　)
89 ×5 =	晚上 11:40(　　)	上午 9 时 ~ 晚上 8 时(　　)
488 ÷8 =	上午 10 时(　　)	13:00 ~ 23:30(　　)
211 ×6 =	下午 3:38(　　)	12:00 ~ 20:00(　　)
316 ×3 =	晚上 10:30(　　)	上午 5 时 ~ 下午 7 时(　　)

B组 变式口算题

1. 连一连。

2014 年	1800 年
平年	
1400 年	2200 年
闰年	
2016 年	2020 年

2. 王春每天到校的时间是 7:24，她从家出发的时间是 7:15，每分钟走 65 米，王春家与学校相距(　　)米。

3. 下面是某快餐店的营业时间牌。先仔细观察，再解决问题。

营业时间	
早上	6:30 ~ 8:30
中午	11:00 ~ 2:00
晚上	5:30 ~ 7:30

(1) 这家快餐店早上的营业时间为(　　)，全天的营业时间为(　　)。

(2) 小军 14:30 经过这家快餐店，他能吃到饭吗？(　　)

关注微信公众号“教辅资料站”获取更多学习资料

练习6　长方形和正方形的面积

用时：____分____秒　错误：　个

A组　常规口算题

600 平方分米 =（　　）平方米　　100 平方分米 =（　　）平方米

700 平方厘米 =（　　）平方分米　　900 平方分米 =（　　）平方米

5 平方米 =（　　）平方分米　　1700 平方厘米 =（　　）平方分米

30 平方分米 =（　　）平方厘米　　32 平方分米 =（　　）平方厘米

9 平方米 =（　　）平方分米　　48 平方米 =（　　）平方分米

5500 平方分米 =（　　）平方米　　1 平方分米 =（　　）平方厘米

16 平方分米 =（　　）平方厘米　　3 平方米 =（　　）平方分米

90 平方米 =（　　）平方分米　　26 平方分米 =（　　）平方厘米

8 平方分米 =（　　）平方厘米　　8800 平方分米 =（　　）平方米

200 平方厘米 =（　　）平方分米　　24 平方米 =（　　）平方分米

1400 平方分米 =（　　）平方米　　5000 平方厘米 =（　　）平方分米

300 平方厘米 =（　　）平方分米　　200 平方分米 =（　　）平方米

25 平方米 =（　　）平方分米　　7200 平方厘米 =（　　）平方分米

1000 平方厘米 =（　　）平方分米　　18 平方分米 =（　　）平方厘米

80 平方分米 =（　　）平方厘米　　4000 平方分米 =（　　）平方米

4 平方分米 =（　　）平方厘米　　3500 平方厘米 =（　　）平方分米

B组　变式口算题

1. 下面是用面积为 1 平方厘米的正方形拼成的图形，求出它们的周长和面积。

　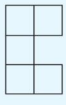　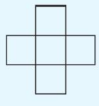

周长：（　　）厘米　　周长：（　　）厘米　　周长：（　　）厘米

面积：（　　）平方厘米　　面积：（　　）平方厘米　　面积：（　　）平方厘米

2. 刘爷爷在一块长 9 米、宽 4 米的长方形空地上种桃树，平均每棵桃树占地 6 平方米，这块空地一共能种（　　）棵桃树。

关注微信公众号“教辅资料站”获取更多学习资料

练习7 分数的初步认识（二）

用时：___分___秒 错误：　个

A组 常规口算题

$\frac{3}{4}$ ◯ $\frac{1}{4}$

$\frac{1}{3}$ ◯ $\frac{1}{4}$

$\frac{6}{9}$ ◯ $\frac{8}{9}$

$\frac{1}{6}$ ◯ $\frac{1}{3}$

$\frac{1}{8}$ ◯ $\frac{1}{9}$

$\frac{4}{5}$ ◯ $\frac{3}{5}$

$\frac{1}{4}$ ◯ $\frac{1}{7}$

$\frac{1}{5}$ ◯ $\frac{1}{8}$

$\frac{4}{6}$ ◯ $\frac{4}{6}$

$\frac{1}{9}$ ◯ $\frac{1}{4}$

$\frac{2}{3}-\frac{1}{3}=$

$\frac{2}{4}+\frac{1}{4}=$

$\frac{3}{5}+\frac{1}{5}=$

$\frac{5}{6}-\frac{3}{6}=$

$\frac{6}{7}-\frac{5}{7}=$

$\frac{3}{8}+\frac{4}{8}=$

$\frac{2}{9}+\frac{3}{9}=$

$\frac{6}{7}-\frac{2}{7}=$

$\frac{1}{6}+\frac{4}{6}=$

$\frac{2}{8}+\frac{4}{8}=$

$\frac{5}{10}-\frac{1}{10}=$

$\frac{1}{4}+\frac{2}{4}=$

$\frac{3}{5}-\frac{1}{5}=$

$\frac{2}{6}+\frac{3}{6}=$

$\frac{4}{7}-\frac{1}{7}=$

$\frac{5}{8}-\frac{3}{8}=$

$\frac{4}{9}+\frac{4}{9}=$

$\frac{2}{10}+\frac{7}{10}=$

$\frac{1}{3}+\frac{1}{3}=$

$\frac{1}{4}+\frac{1}{4}=$

$\frac{7}{8}-\frac{5}{8}=$

$\frac{6}{9}-\frac{3}{9}=$

$\frac{1}{10}+\frac{7}{10}=$

$\frac{2}{8}+\frac{1}{8}=$

B组 变式口算题

1. 7分米 = $\frac{(\quad)}{(\quad)}$米　　3角 = $\frac{(\quad)}{(\quad)}$元　　5厘米 = $\frac{(\quad)}{(\quad)}$分米

8角 = $\frac{(\quad)}{(\quad)}$元　　6分米 = $\frac{(\quad)}{(\quad)}$米　　4角 = $\frac{(\quad)}{(\quad)}$元

2. 先分一分，再写算式。

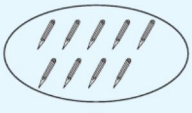

这些铅笔的$\frac{2}{3}$是多少支？

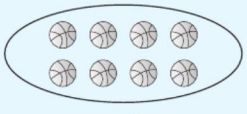

这些篮球的$\frac{3}{4}$是多少个？

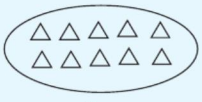

这些△的$\frac{3}{5}$是多少个？

关注微信公众号“教辅资料站”获取更多学习资料

练习8　小数的初步认识

用时：____分____秒　错误：　个

A组　常规口算题

◆ 比较大小。

0.4 ◯ 0.7

2.3 ◯ 2.1

6.4 ◯ 4.6

4.7 ◯ 5.1

4.3 ◯ 4.1

2.8 ◯ 8.2

3.5 ◯ 2.4

6.4 ◯ 6.6

8.7 ◯ 9.7

8.5 ◯ 5.8

0.9 ◯ 1.1

4.9 ◯ 9.4

0.7 +0.1 =	1.8 −0.6 =	4.5 +2.3 =
6.2 −3.1 =	4.5 −3.1 =	5.8 +1.3 =
2.4 +1.5 =	4.1 −3.9 =	5.6 +1.7 =
7.4 +1.2 =	6.4 −1.7 =	8.5 +1.3 =
9.8 −1.7 =	3.3 −1.4 =	5.6 −1.6 =
8.9 −2.3 =	0.4 −0.3 =	3.9 −1.7 =
5.8 +1.4 =	3.1 +1.4 =	4.9 −2.7 =
5.1 +4.6 =	2.3 −0.9 =	0.8 +1.3 =
5.7 −3.6 =	4.7 +1.2 =	9.2 −1.4 =
5.7 −1.6 =	4.7 +1.5 =	9.2 −1.3 =
3.2 +1.5 =	4.2 −2.8 =	

B组　变式口算题

1. 先写出小数，再比较大小。

1元3角　9角　　7角　2元3角　　3元4角　4元3角

(　　)元 ◯ (　　)元　(　　)元 ◯ (　　)元　(　　)元 ◯ (　　)元

2. 妈妈买回6.5米布，做上衣用去2.4米，做裤子用去1.3米，做上衣和裤子一共用去(　　)米，还剩下(　　)米。

3. 在□里填上合适的数。

0.□ > 0.□　　□.5 > 4.□　　3.□ > □.9

关注微信公众号“教辅资料站”获取更多学习资料

练习9 数据的收集和整理（二）

用时：___分___秒 错误：　个

A组 常规口算题

56 ÷4 =	150 ×3 =	4.5 −2.3 =
23 ×30 =	11 ×80 =	1.4 +0.9 =
24 ×5 =	51 ÷3 =	4.9 −0.3 =
21 ×40 =	25 ×4 =	4.4 +0.4 =
98 ÷2 =	30 ×62 =	8.6 −7.7 =
126 ×2 =	21 ×5 =	7.4 +1.8 =
819 ÷9 =	39 ÷3 =	3.8 −1.2 =
160 ×4 =	560 ÷8 =	5.6 +1.3 =
74 ×4 =	107 ×5 =	2.1 −0.9 =
609 ÷3 =	405 ÷5 =	4.5 +3.8 =
408 ×4 =	170 ×3 =	0.2 +0.7 =
48 ×5 =	18 ×30 =	9.4 −5.1 =
325 ×2 =	990 ÷3 =	3.4 −2.7 =
74 ÷2 =	119 ×4 =	0.6 +0.9 =
848 ÷8 =	220 ÷4 =	8.9 −2.8 =
26 ×30 =	312 ×3 =	8.7 −1.8 =

B组 变式口算题

红星小学开展环保活动，倡议每个学生收集废电池。下面是三(1)班各环保小组一个月收集废电池的数量。（单位：节）

第1组	第2组	第3组	第4组	第5组	第6组	第7组	第8组
9	9	11	10	8	10	9	11

1. 这个班级一个月一共收集废电池(　　)节。

2. 每收集1节废电池可以减少2平方米的土地被污染。三(1)班这次的环保活动可以减少(　　)平方米的土地被污染。

关注微信公众号“教辅资料站”获取更多学习资料

口算能力期末综合测评（一）

用时：___分___秒　错误：　个

11 ×30 =	0.1 +3.1 =	(79 −30) ÷7 =
208 ×4 =	2.1 −0.1 =	6 ×20 −50 =
62 ×4 =	1.1 +1.8 =	6 ×(40 −30) =
966 ÷3 =	4.5 −3.5 =	30 ×2 ×8 =
510 ×6 =	2.7 +1.6 =	7 ×(25 −5) =
91 ×7 =	3.4 +4.3 =	43 +17 ×2 =
20 ×41 =	5.6 −1.1 =	270 +(36 −20) =
369 ÷3 =	8.9 +0.1 =	144 −22 ×2 =
407 ×6 =	9.3 −5.6 =	90 ÷(36 −30) =
49 ×3 =	4.4 +0.5 =	9 ×60 ÷3 =
484 ÷4 =	2.8 −1.4 =	186 −46 +23 =
90 ×20 =	3.1 +2.1 =	(79 −70) ×11 =
26 ×30 =	5.5 +2.3 =	25 ×2 ×7 =
189 ÷9 =	6.7 −5.9 =	(23 −13) ×20 =
67 ×4 =	4.9 −2.4 =	46 ×2 −42 =
18 ×6 =	3.3 +2.3 =	(70 −30) ×70 =
210 ×9 =	4.9 +1.1 =	400 ÷5 ÷4 =
82 ×30 =	5 −2.5 =	(61 +17) ÷2 =
350 ÷7 =	3.3 +4.9 =	450 ÷(21 −12) =
414 ×2 =	7.2 −2.2 =	56 ×2 −42 =
405 ÷5 =	3.8 +4.1 =	86 ÷2 +34 =
92 ×4 =	5.2 −3.5 =	6 ×(21 −5) =
510 ÷5 =	8.5 +1.4 =	12 ×5 ÷3 =
510 ×2 =	9.6 −6.6 =	46 −12 ×3 =
328 ÷4 =	7.3 +1.8 =	197 −36 +23 =
245 ×2 =	5.2 −3.4 =	47 ×3 −21 =

关注微信公众号“教辅资料站”获取更多学习资料

口算能力期末综合测评（二）

用时：___分___秒 错误：　个

35 ×2 =	3.2 −1.2 =	18 平方米 =（　　）平方分米
86 ×2 =	0.3 +1.6 =	22 平方分米 =（　　）平方厘米
150 ×4 =	6.2 +1.8 =	23 平方米 =（　　）平方分米
45 ×5 =	3.8 −1.4 =	5 吨 =（　　）千克
808 ÷8 =	4.9 −0.5 =	1600 平方厘米 =（　　）平方分米
108 ×2 =	2.1 +1.5 =	3200 平方分米 =（　　）平方米
80 ×50 =	1.1 +6.5 =	500 平方分米 =（　　）平方米
842 ÷2 =	4.4 −3.3 =	5000 米 =（　　）千米
309 ×3 =	2.2 +6.6 =	46 平方米 =（　　）平方分米
32 ×30 =	7.6 −4.6 =	54 平方分米 =（　　）平方厘米
32 ×5 =	9.3 +0.5 =	70 平方米 =（　　）平方分米
480 ÷3 =	8.1 −2.1 =	8 平方分米 =（　　）平方厘米
92 ×4 =	7.2 +1.8 =	7000 千克 =（　　）吨
13 ×8 =	8.8 −0.4 =	88 平方分米 =（　　）平方厘米
69 ×3 =	5.5 +4.2 =	4300 平方分米 =（　　）平方米
114 ×2 =	6.4 −3.5 =	5900 平方厘米 =（　　）平方分米
140 ÷5 =	1.1 +2.9 =	8 千米 =（　　）米
217 ÷7 =	5.3 +0.7 =	200 平方厘米 =（　　）平方分米
27 ×20 =	3.3 +2.2 =	8000 平方分米 =（　　）平方米
324 ÷4 =	0.3 +9.6 =	9600 平方分米 =（　　）平方米
16 ×30 =	1.8 −1.7 =	3 吨 =（　　）千克
720 ÷8 =	5.7 −5.5 =	57 平方米 =（　　）平方分米
123 ×3 =	2.9 +3.1 =	38 平方分米 =（　　）平方厘米
273 ÷3 =	4.5 −1.9 =	64 平方米 =（　　）平方分米
216 ÷4 =	3.2 +4.6 =	9000 米 =（　　）千米
27 ×30 =	7.3 −4.5 =	1200 平方厘米 =（　　）平方分米

关注微信公众号“教辅资料站”获取更多学习资料

口算能力期末综合测评（三）

用时：___分___秒　错误：　个

390 ×12 =
17 ×5 =
26 ÷2 =
630 ÷9 =
21 ×40 =
78 ÷3 =
140 ×3 =
804 ×2 =
33 ×20 =
84 ×4 =
31 ×50 =
455 ÷5 =
91 ×7 =
546 ÷6 =
26 ×20 =
74 ÷2 =
142 ×2 =
306 ÷6 =
43 ×20 =
284 ÷4 =
24 ×7 =
369 ÷9 =
81 ×30 =
107 ×6 =
810 ×9 =
246 ×2 =

◆ 求下列长方形的周长或面积。

长 =16 厘米，宽 =4 厘米，
面积 =（　　）平方厘米

长 =20 厘米，宽 =12 厘米，
面积 =（　　）平方厘米

长 =14 分米，宽 =7 分米，
面积 =（　　）平方分米

长 =20 米，宽 =10 米，
周长 =（　　）米

长 =31 米，宽 =20 米，
面积 =（　　）平方米

长 =25 分米，宽 =9 分米，
面积 =（　　）平方分米

长 =17 分米，宽 =13 分米，
周长 =（　　）分米

长 =13 厘米，宽 =9 厘米，
面积 =（　　）平方厘米

长 =20 米，宽 =18 米，
面积 =（　　）平方米

长 =31 分米，宽 =13 分米，
周长 =（　　）分米

长 =16 厘米，宽 =8 厘米，
面积 =（　　）平方厘米

长 =41 米，宽 =30 米，
面积 =（　　）平方米

◆ 求下列正方形的周长或面积。

边长 =3 厘米，
面积 =（　　）平方厘米

边长 =20 米，
面积 =（　　）平方米

边长 =17 分米，
周长 =（　　）分米

边长 =5 米，
面积 =（　　）平方米

边长 =40 分米，
面积 =（　　）平方分米

边长 =22 厘米，
周长 =（　　）厘米

边长 =7 米，
面积 =（　　）平方米

边长 =80 厘米，
面积 =（　　）平方厘米

边长 =26 分米，
周长 =（　　）分米

边长 =9 米，
面积 =（　　）平方米

边长 =112 厘米，
周长 =（　　）厘米

边长 =6 米，
面积 =（　　）平方米

关注微信公众号“教辅资料站”获取更多学习资料

口算能力期末综合测评（四）

用时：___分___秒 错误：　个

16 ×4 =	1.5 +1.6 =	10 +11 ×2 =
35 ×20 =	4.2 −2.1 =	24 −55 ÷5 =
108 ×5 =	6.3 −4.3 =	(34 −14) ÷4 =
60 ×90 =	2.8 +0.7 =	42 −12 ×2 =
12 ×30 =	5.3 +1.6 =	5 ×(24 −12) =
85 ÷5 =	4.6 −0.8 =	420 ÷7 ÷3 =
91 ×7 =	5.5 +2.1 =	86 −77 ÷7 =
505 ÷5 =	6.5 −4.8 =	64 +12 ×3 =
311 ×4 =	7.1 +0.9 =	(56 −16) ×4 =
48 ×20 =	9.3 −1.2 =	70 +12 ×3 =
960 ÷3 =	7.5 −2.4 =	69 ÷3 +12 =
44 ×3 =	4.4 +4.4 =	320 ÷(20 −12) =
105 ÷5 =	5.8 −4.9 =	60 ÷4 −15 =
35 ×5 =	4.5 −2.5 =	450 −130 +160 =
309 ÷3 =	1.6 +1.4 =	60 ×2 +10 =
80 ×12 =	0.7 +2.1 =	78 ÷2 +10 =
108 ×2 =	3.9 −3.6 =	(79 −20) ×2 =
427 ÷7 =	5.6 +2.5 =	(43 −20) ×3 =
24 ×6 =	3.6 +5.2 =	60 ÷5 ×2 =
720 ÷8 =	2.2 +6.9 =	438 +(125 +75) =
23 ×30 =	7.7 −2.8 =	77 ÷7 ×2 =
900 ÷6 =	5.4 −1.3 =	44 +11 ×2 =
123 ×2 =	7.5 +0.4 =	60 ×60 ÷6 =
840 ÷8 =	6.1 +1.7 =	36 ×(83 −63) =
236 ×2 =	7.4 −1.2 =	800 ÷8 +200 =
17 ×40 =	5.2 −2.8 =	(70 −20) ÷5 =

关注微信公众号“教辅资料站”获取更多学习资料

参考答案

第一单元 练习1（第1页）

A组

72	1800	248
720	60	680
5600	0	1200
750	480	900
92	560	370
920	880	3000
68	2100	164
1200	460	760
430	450	2400
686	432	990
85	1800	210
850	390	1700
260	84	99
780	363	844
2800	4500	1500
246	700	81

B组

1. 120　600　180　150

2. 800

练习2（第2页）

A组

369	69	68
144	672	246
2100	3000	112
129	256	5600
170	390	147
480	380	1800
3200	105	219
94	2700	270
168	368	368
230	920	1500
4500	90	2525
468	848	1688
230	588	150
153	5600	345
1260	0	85
4500	470	360

B组

1. 34×21=714（1）天吃了（34）只害虫
（20）天吃了（680）只害虫
（21）天吃了（714）只害虫

2. 32×13=416

$$\begin{array}{r} 32 \\ \times 13 \\ \hline 96 \\ 32 \\ \hline 416 \end{array}$$ 验算： $$\begin{array}{r} 13 \\ \times 32 \\ \hline 26 \\ 39 \\ \hline 416 \end{array}$$

23×12=276

$$\begin{array}{r} 23 \\ \times 12 \\ \hline 46 \\ 23 \\ \hline 276 \end{array}$$ 验算： $$\begin{array}{r} 12 \\ \times 23 \\ \hline 36 \\ 24 \\ \hline 276 \end{array}$$

练习3（第3页）

A组

48	84	60
360	150	36
3500	159	52
98	3200	99
690	300	100
130	76	69
80	4200	79
232	933	34
2400	189	29
135	624	78
369	4800	70
3600	78	100
170	1644	61
588	530	41
1244	72	41
470	816	60

B组

1. 47×12=564

$$\begin{array}{r} 47 \\ \times 12 \\ \hline 94 \\ 47 \\ \hline 564 \end{array}$$ 验算： $$\begin{array}{r} 12 \\ \times 47 \\ \hline 84 \\ 48 \\ \hline 564 \end{array}$$

35×37=1295

$$\begin{array}{r} 35 \\ \times 37 \\ \hline 245 \\ 105 \\ \hline 1295 \end{array}$$ 验算： $$\begin{array}{r} 37 \\ \times 35 \\ \hline 185 \\ 111 \\ \hline 1295 \end{array}$$

28×64=1792

$$\begin{array}{r} 28 \\ \times\ 64 \\ \hline 112 \\ 168 \\ \hline 1792 \end{array}$$ 验算： $$\begin{array}{r} 64 \\ \times\ 28 \\ \hline 512 \\ 128 \\ \hline 1792 \end{array}$$

2. 775

练习4（第4页）

A组

86	168	28
4200	560	37
248	94	90
460	339	43
135	2800	34
3200	368	42
60	240	45
170	396	36
576	180	110
2700	70	173
345	304	74
88	5400	63
1600	852	87
328	918	40
565	230	64
642	634	140

B组

1. 1400　1428

2. 220　660

3. 490

练习5（第5页）

A组

128	219	640
96	4800	30
5600	84	280
360	76	180

请沿此虚线裁剪下使用

关注微信公众号“教辅资料站”获取更多学习资料

213	660	38
4500	228	250
369	6300	76
48	630	180
460	280	720
450	342	30
4200	1280	300
342	98	420
135	840	400
480	933	100
159	1509	560
1204	720	190

B 组

1. 49×20=980　　70×38=2660

$$\begin{array}{r} 49 \\ \times\ 20 \\ \hline 980 \end{array} \qquad \begin{array}{r} 38 \\ \times\ 70 \\ \hline 2660 \end{array}$$

69×40=2760　　35×50=1750

$$\begin{array}{r} 69 \\ \times\ 40 \\ \hline 2760 \end{array} \qquad \begin{array}{r} 35 \\ \times\ 50 \\ \hline 1750 \end{array}$$

2. 1360

练习 6（第 6 页）

A 组

68	156	32
360	880	180
550	484	630
5600	336	200
268	55	100
1150	2700	540
94	98	40
4500	660	99
279	1244	300
840	3200	200
726	375	100
96	225	480
1800	690	100
5656	1248	250
990	814	490
252	750	200

B 组

1. 1200
2. 1920
3. 420

练习 7（第 7 页）

A 组

129	162	180
369	141	945
84	360	32
1628	800	810
480	3500	100
288	288	630
135	840	300
5600	208	400
600	4800	480
480	4256	290
576	990	50
5400	945	720
434	816	200
340	1236	200
830	255	360
31	3036	100

B 组

1. 2100　2. 800
3. 9000　4. 1500

练习 8（第 8 页）

A 组

68	126	75
880	750	630
824	933	300
760	680	1200
81	188	600
852	272	630
900	144	100
332	156	420
3000	378	440
740	870	900
192	1800	200
76	960	95
273	4236	560
1560	190	81
565	142	100
550	351	540

B 组

1. 31×27=837　　45×30=1350

$$\begin{array}{r} 31 \\ \times\ 27 \\ \hline 217 \\ 62 \\ \hline 837 \end{array} \qquad \begin{array}{r} 45 \\ \times\ 30 \\ \hline 1350 \end{array}$$

2. 400
3. 720

练习 9（第 9 页）

A 组

363	900	78
70	57	300
690	960	268
96	368	81
816	272	88
720	1550	960
195	86	135
900	219	440
900	1240	432
276	375	96
834	178	1505
780	850	380
112	428	660
372	112	642
960	980	108
621	2555	1020

B 组

36×24=864　　75×75=5625

$$\begin{array}{r} 36 \\ \times 24 \\ \hline 144 \\ 72 \\ \hline 864 \end{array} \qquad \begin{array}{r} 75 \\ \times 75 \\ \hline 375 \\ 525 \\ \hline 5625 \end{array}$$

43×47=2021　　38×32=1216

$$\begin{array}{r} 43 \\ \times 47 \\ \hline 301 \\ 172 \\ \hline 2021 \end{array} \qquad \begin{array}{r} 38 \\ \times 32 \\ \hline 76 \\ 114 \\ \hline 1216 \end{array}$$

第一单元口算能力测试

（第 10 页）

A 组

68	98	160
870	740	80
106	570	600

请沿此虚线裁剪下使用

关注微信公众号“教辅资料站”获取更多学习资料

680	123	14
909	780	270
340	153	200
171	750	2400
372	342	230
960	612	600
238	680	720
198	129	800
96	720	890
288	228	630
780	810	450
222	600	700
930	648	80

B组

1. (1)960　(2)135　(3)1095

2. 1200

第二单元　练习1（第11页）

A组

129	220	126
280	98	2800
92	75	78
104	492	215
86	96	520
282	285	369
1000	1200	1600
232	510	90
88	190	72
112	290	675
480	340	840
141	252	175
720	420	660
1515	2088	1260
520	450	1818
645	375	2555

B组

1. 5000　4　6000
   8000　3　9

2. (1)千米
   (2)米
   (3)米

练习2（第12页）

A组

70	444	38
248	126	720
740	136	996
4200	2100	372
640	450	104
135	484	1612
1260	420	112
608	235	2130
840	770	6400
750	660	215
154	2888	108
340	1420	4000
168	429	524
1688	520	102
456	510	636
808	1632	1890

B组

1. 2000　3　4000
   7000　5　2

2. (1)克
   (2)吨
   (3)千克　吨

练习3（第13页）

A组

129	88	5000
510	216	7000
255	396	400
342	460	7
144	420	6000
174	496	5
720	1644	6000
468	2024	3
305	224	9
500	215	700
6300	780	4000
3535	344	8000
920	636	6
196	780	5
237	294	800
423	132	7

B组

1. 千米　厘米　吨
   千米　千克　厘米　千克
   吨　千米

2. 900

第二单元口算能力测试

（第14页）

A组

72	570	3
141	460	7
360	212	8000
240	126	9000
232	484	7
72	2160	500
171	207	8
104	660	9
2844	315	3
234	132	7000
720	351	4
1410	208	7
2442	1830	5
288	375	6000
650	108	7
678	258	6000

B组

1. 3000　3

2. 2000　2

3. 小汽车　5

4. 8

第三单元　练习1（第15页）

A组

5400	540	55
23	156	810
720	12	166
94	147	40
19	80	204

请沿此虚线裁剪下使用

关注微信公众号“教辅资料站”获取更多学习资料

276	5600	560
690	19	74
122	660	414
144	90	103
488	404	420
81	396	63
880	1380	485
948	62	490
51	832	900
4942	580	111
140	91	480

B 组

1. 95　28 ×2 +39 =95(元)
2. 70　49 ×2 −28 =70(元)

练习 2(第 16 页)

A 组

68	156	500
69	60	80
23	188	900
448	16	66
720	850	490
450	780	100
70	492	560
5600	26	140
920	6400	77
41	920	100
156	66	300
720	456	200
38	960	350
2088	4242	245
354	180	354
24	1248	200

B 组

1. 146
2. 47
3. (1)132　(2)88

练习 3(第 17 页)

A 组

99	184	100
188	232	420
11	540	190
260	40	300
1515	5600	630
23	144	370
810	202	245
568	480	400
19	890	189
192	19	55
640	264	540
31	510	70
5400	61	900
165	814	300
81	954	50
684	140	490

B 组

1. 295
2. 345　55
3. 68　120

第三单元口算能力测试(第 18 页)

A 组

86	108	73
4500	990	80
80	104	490
172	38	77
520	4200	800
23	141	221
111	60	420
540	230	110
25	1680	420
288	102	115
1518	110	660
31	304	400
720	18	142
513	750	200
140	654	72
264	61	135

B 组

1. 甲
2. 172　86

第四单元　练习 1(第 19 页)

A 组

39	96	32
480	480	77
21	555	72
520	18	60
175	94	50
16	840	39
232	16	10
510	174	120
71	368	26
1221	90	160
264	450	58
203	390	320
282	91	34
880	918	128
1428	101	76
180	836	82

B 组

1. 158
2. 147　16
3. 130　47

练习 2(第 20 页)

A 组

64	920	24
141	48	60
24	246	67
770	6300	63
510	80	118
826	625	74
25	560	78
228	231	120
960	190	46
3200	249	39
20	810	115
208	3530	77
1380	302	60
140	136	89
2466	945	20
91	81	60

B 组

1. 56 +96 ÷6
   =56 +16
   =72
   280 ÷7 +60
   =40 +60
   =100
   73 −57 ÷3
   =73 −19
   =54
2. 7　3. 140　12

练习 3(第 21 页)

A 组

88	164	70
4500	12	110
159	680	117
90	234	86
336	24	50

请沿此虚线裁剪下使用

关注微信公众号“教辅资料站”获取更多学习资料

880	640	62
804	232	48
15	303	64
228	360	65
740	4800	5
336	24	48
16	368	91
3577	810	7
102	71	8
378	304	560
51	830	360

B组

1. $(450+50)\times4$
$=500\times4$
$=2000$
$360\div(2\times3)$
$=360\div6$
$=60$
$740-(28+42)$
$=740-70$
$=670$

2. 550　3. 176

练习4（第22页）

A组

92	45	3
5400	90	186
448	220	108
80	4	7
420	8	63
3542	174	800
13	114	130
328	300	18
690	11	100
13	254	70
231	106	58
423	84	15
61	460	130
750	64	379
490	200	110
160	9	350

B组

1. $349-128\times2$
$=349-256$
$=93$
$(571-126)\div5$
$=445\div5$
$=89$
$88\times(257-248)$
$=88\times9$
$=792$

2. < > > <

3. 40

第四单元口算能力测试

（第23页）

A组

86	240	4
363	9	120
36	720	578
152	500	96
690	53	850
144	9	210
110	420	100
2700	350	566
560	450	196
312	50	105
13	80	243
420	280	810
420	110	40
51	50	155
690	15	9
51	305	13

B组

1. 30

2. 5

3. 32　53

第五单元　练习1（第24页）

A组

52	202	235
336	540	580
70	159	208
520	202	60
141	6400	452
11	92	680
112	90	2555
660	165	5400
23	232	32
3600	880	824
3530	188	630
14	380	948
620	36	120
648	954	3030
91	1688	42
4977	91	2848

B组

1. 24　93　180
420　36　60

2. (1)9　10　10　1
(2)31　4　3
(3)6　1　5　31　6　30

练习2（第25页）

A组

42	94	67
520	18	210
132	280	800
60	345	22
248	32	8
1530	234	200
39	1420	61
255	5600	30
204	60	114
71	230	300
660	930	113
513	264	360
6300	48	10
51	232	350
1624	836	18
948	51	48

B组

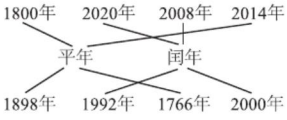

练习3（第26页）

A组

88	90	189
232	840	102
32	492	284
420	224	540

请沿此虚线裁剪下使用

关注微信公众号“教辅资料站”获取更多学习资料

129	423	440
204	4800	36
1800	42	429
330	152	3500
25	450	11
528	15	264
750	450	1240
16	680	258
235	150	13
605	456	135
71	948	294
830	91	91

B 组

1.(1)9 月 30 日
(2)2 月 29 日
(3)4 月 30 日
(4)8 月 31 日

2. 2020　2024　2028

练习 4（第 27 页）

A 组

68	150	8:30
189	33	16:20
224	812	19:30
21	6400	8:00
144	363	15:50
510	26	17:00
384	462	9:35
25	720	21:00
252	168	16:35
188	140	11:30
41	355	22:00
2008	948	11:35
380	81	8:40
2848	836	24:00（或 0:00）
201	1560	

B 组

1. 下午 3:40　上午 9:25
下午 2:15
晚上 8:20　晚上 11:15
下午 6:30

2. 略。

练习 5（第 28 页）

A 组

4500	284	4 小时
34	960	8 小时
36	84	1 小时 15 分钟
376	19	12 小时
940	2400	8 小时
232	920	25 分钟
122	345	12 小时 30 分钟
513	14	12 小时
1320	3542	6 小时
192	990	9 小时
12	240	35 分钟
392	15	12 小时
1040	452	5 小时
948	352	12 小时
120	61	8 小时
152	2848	

B 组

1. 7
2. 9
3. 7 小时 30 分钟
4. 9　30

练习 6（第 29 页）

A 组

51	8:30	7 小时
224	15:35	4 小时 30 分钟
14	16:00	8 小时
135	9:00	25 分钟
420	11:30	9 小时
5400	19:00	6 小时
36	21:00	9 小时
304	16:30	8 小时
450	9:25	9 小时
3555	15:20	20 分钟
17	14:00	10 小时
246	23:00	10 小时
680	7:00	1 小时
12	16:50	9 小时 30 分钟
722	23:30	5 小时
71		

B 组

1. 2　30　6　30　2. 能

第五单元口算能力测试

（第 30 页）

A 组

136	808	270
360	4800	8
90	108	75
369	16	666
7200	240	23
12	920	9
810	230	90
336	15	810
636	192	39
12	1530	218
234	235	70
760	55	5
203	354	420
207	640	300
945	81	13
141	832	49

B 组

1. 1　45
2. 240
3. 7　8
4. B

第六单元　练习 1（第 31 页）

A 组

90	600	80
260	108	22
696	18	130
720	680	168
51	400	540
192	304	900
61	46	13
1590	1299	90
13	104	1080

请沿此虚线裁剪下使用

关注微信公众号“教辅资料站”获取更多学习资料

960 900 321
960 945 278
234 1140 71
1836 104 760
24 132 82
104 680 103
109 434 575

B组

(3) (2)

练习2（第32页）

A组

100 510 51
160 164 780
432 11 999
60 1530 800
600 24 17
154 1560 204
626 760 301
900 123 292
2760 188 960
595 31 14
15 231 2436
51 106 29
1850 107 990
403 740 70
105 856 41
896 780 1840

B组

1.(1)平方厘米
(2)平方厘米
(3)平方米
(4)平方分米
(5)平方分米
2.8 平方分米

练习3（第33页）

A组

70 47 126
972 510 520
600 71 70
28 600 16
954 31 160
450 108 8
11 640 45
760 420 450
402 60 300
6300 135 100
780 840 640
71 81 400
1230 852 20
276 32 105
26 1530 340
680 360 30

B组

1.10 14 5 6
2.略。

练习4（第34页）

A组

60 49
120 100
150 96
96 44
26 81
72 64
18 400
96 84
880 121
54 120
270 68
1500 1600
520 200
24 25
117 24
10 88

B组

1.2200
2.16 16
3.4500
4.81
5.20

练习5（第35页）

A组

45 64
450 100
20 25
98 96
18 16
480 60
160 81
80 400
70 64
96 36
440 121
30 100
300 900
50 200
150 92
420

B组

1.17
2.49 21
3.3600

练习6（第36页）

A组

300 100
600 4
3 6
400 700
3 800
2 900
3000 11
700 4000
6 1500
100 1
2 3700
7 5
400 2100
1200 900
5000 800
1400 3400

请沿此虚线裁剪下使用

关注微信公众号“教辅资料站”获取更多学习资料

B组

1. 100　1　2. 3600

3. 256　20　400　4

练习7（第37页）

A组

500	6
400	100
7	1000
300	200
14	17
2300	43
20	9
4200	300
900	4
2	800
12	2200
400	35
6	10
7700	8
1	2
2500	3000

B组

1. 4500　45

2. (1)16　200　(2)16　160

练习8（第38页）

A组

136	16
300	112
16	44
108	400
180	36
77	81
40	2500
128	144
84	9
750	4
22	64
440	284
1050	64
44	100
210	116

B组

1. 204　625　507　2. 5400　54

第六单元口算能力测试

（第39页）

A组

200	4400
300	1000
4	800
1	700
600	5
7	6
1400	11
2000	1900
40	7
8	1300
1100	5000
500	35
900	60
12	8
1500	9
2500	4500

B组

1. 64　6400　32

2. 180

3. 25

第七单元　练习1（第40页）

A组

440	>	$\frac{5}{6}$
2500	>	$\frac{4}{5}$
72	>	$\frac{2}{10}$
21	=	$\frac{5}{7}$
32	<	$\frac{2}{4}$
248	>	$\frac{1}{3}$
61	<	$\frac{6}{8}$
3600	>	$\frac{9}{10}$
1020	<	0
115		$\frac{3}{4}$
12		$\frac{1}{7}$
55		$\frac{3}{8}$
231		
342		
44		
812		

B组

$\frac{1}{2}$　$\frac{1}{5}$　$\frac{1}{3}$

$\frac{1}{3}$　$\frac{1}{4}$　$\frac{1}{3}$

练习2（第41页）

A组

36	>	$\frac{2}{3}$
288	<	$\frac{1}{4}$
63	<	$\frac{7}{8}$
246	<	$\frac{5}{9}$
332	<	$\frac{3}{7}$
680	>	$\frac{5}{6}$
168	>	$\frac{4}{5}$
4200	<	$\frac{4}{10}$
159	<	$\frac{6}{9}$
360		$\frac{7}{8}$
348		$\frac{2}{7}$
80		$\frac{6}{8}$
4000		
642		
91		

请沿此虚线裁剪下使用

关注微信公众号“教辅资料站”获取更多学习资料

369

B组

1. 12 ÷ 3 = 4（个）
2. 10 ÷ 5 = 2（个）
3. 12 ÷ 6 = 2（个）
4. 8 ÷ 4 = 2（只）

练习3（第42页）

A组

84	>	$\frac{5}{8}$
15	>	$\frac{5}{7}$
690	<	$\frac{3}{9}$
248	<	$\frac{3}{6}$
156	>	$\frac{5}{7}$
32	>	$\frac{9}{10}$
920	<	$\frac{2}{9}$
348	>	$\frac{6}{7}$
5400	>	$\frac{3}{4}$
124		$\frac{4}{8}$
680		$\frac{2}{9}$
828		$\frac{5}{6}$

81
5600
135
814

B组

略。

练习4（第43页）

A组

>	$\frac{2}{3}$	$\frac{1}{10}$
>	$\frac{2}{4}$	$\frac{2}{10}$
=	$\frac{3}{4}$	$\frac{4}{10}$
>	$\frac{6}{7}$	$\frac{8}{10}$
<	$\frac{4}{7}$	$\frac{5}{10}$
>	$\frac{3}{9}$	$\frac{4}{10}$
>	$\frac{4}{6}$	$\frac{9}{10}$
<	$\frac{7}{10}$	$\frac{7}{10}$
>	$\frac{5}{7}$	$\frac{6}{10}$
>	0	$\frac{2}{10}$
=	$\frac{5}{8}$	$\frac{5}{10}$
	$\frac{2}{4}$	$\frac{3}{10}$

B组

1. $\frac{1}{8}$ $\frac{4}{8}$ 2. $\frac{1}{9}$ $\frac{5}{9}$

练习5（第44页）

A组

$\frac{2}{10}$	<	$\frac{1}{10}$
$\frac{2}{5}$	=	$\frac{2}{10}$
$\frac{2}{8}$	>	$\frac{9}{10}$
$\frac{2}{8}$	<	$\frac{9}{10}$
$\frac{3}{4}$	<	$\frac{6}{10}$
$\frac{8}{9}$	<	$\frac{7}{10}$
$\frac{4}{10}$	>	$\frac{8}{10}$
$\frac{3}{7}$	<	$\frac{4}{10}$
$\frac{5}{6}$	>	$\frac{3}{10}$
$\frac{4}{6}$		$\frac{2}{10}$
$\frac{2}{3}$		$\frac{5}{10}$
$\frac{2}{7}$		$\frac{1}{10}$

B组

1. 8 ÷ 4 × 3 = 6（只）
2. 12 ÷ 4 × 3 = 9（条）

练习6（第45页）

A组

>	$\frac{3}{4}$	$\frac{5}{10}$
>	$\frac{3}{5}$	$\frac{4}{10}$
>	$\frac{2}{6}$	$\frac{7}{10}$
<	$\frac{3}{7}$	$\frac{6}{10}$
>	$\frac{2}{3}$	$\frac{3}{10}$
<	$\frac{5}{6}$	$\frac{4}{10}$
>	$\frac{4}{6}$	$\frac{6}{10}$
>	$\frac{3}{7}$	$\frac{5}{10}$
<	$\frac{7}{8}$	$\frac{9}{10}$
<	$\frac{6}{7}$	$\frac{8}{10}$
>	$\frac{2}{9}$	$\frac{2}{10}$
	$\frac{5}{8}$	$\frac{5}{10}$

B组

1. 2
2. 4
3. 10
4. 32　8

第七单元口算能力测试

（第46页）

A组

>	$\frac{2}{3}$	$\frac{1}{10}$
<	$\frac{3}{4}$	$\frac{2}{10}$
>	$\frac{2}{5}$	$\frac{3}{10}$
>	$\frac{2}{6}$	$\frac{5}{10}$

请沿此虚线裁剪下使用

关注微信公众号“教辅资料站”获取更多学习资料

<	$\frac{6}{7}$	$\frac{7}{10}$
>	$\frac{6}{8}$	$\frac{4}{10}$
>	$\frac{3}{6}$	$\frac{8}{10}$
>	$\frac{2}{7}$	$\frac{4}{10}$
>	$\frac{7}{8}$	$\frac{7}{10}$
<	$\frac{7}{9}$	$\frac{6}{10}$
	$\frac{5}{8}$	$\frac{3}{10}$
	$\frac{4}{7}$	$\frac{7}{10}$

B 组

1.(1)8 ÷4 ×3 =6(个)

(2)12 ÷4 ×3 =9(个)

(3)16 ÷4 ×3 =12(个)

2.(1)60 ÷3 ×2 =40(分钟)

(2)60 ÷6 ×2 =20(分钟)

第八单元 练习 1(第 47 页)

A 组

369	$\frac{3}{5}$	零点五
90	$\frac{2}{5}$	一点四
460	$\frac{5}{6}$	零点八
80	$\frac{4}{5}$	二点三
5600	$\frac{6}{7}$	三点五
351	$\frac{3}{8}$	四点六
990	$\frac{2}{7}$	零点九
26	$\frac{2}{9}$	七点三
4500	$\frac{2}{4}$	八点二
824	$\frac{5}{6}$	二点一
840	$\frac{5}{8}$	九点六
174	$\frac{7}{9}$	六点九
91		五点二
921		七点四
101		四点七
832		

B 组

1.1 分米 4 分米 (9)分米

$\frac{1}{10}$米 $(\frac{4}{10})$米 $(\frac{9}{10})$米

0.1 米 (0.4)米 (0.9)米

2. $\frac{7}{10}$ $\frac{5}{10}$ $\frac{6}{10}$

0.7 0.5 0.6

练习 2(第 48 页)

A 组

129	94	<
90	4500	<
480	41	<
232	248	>
5400	960	>
16	1518	<
690	6300	<
600	16	<
2000	750	>
816	2166	>
480	3600	>
111	279	>
1566	340	>
5600	71	<
294	296	<
91	202	

B 组

1.(0.8)(>)(0.3)

(2.4)(>)(1.9)

2.0.6 0.9 1.2 1.8 2.5 2.8

2.8 >2.5 >1.8 >1.2 >0.9 >0.6

练习 3(第 49 页)

A 组

4.2	9.8	1.3
1.1	9.9	6.6
4.2	2.2	3.3
7.5	3	5.6
2.9	8	0.9
6.1	8.8	3
9.7	4	3.4
2.2	5.2	6.9
0.6	9.3	3
8.7	1.3	9.8
5.1	4.4	3.6
1	8.9	1.1
7.1	6	6.9
6.9	8.7	1.2
7.1	2	9.7

B 组

1.4.5 3.6 7.6 9.1

2.(1)8.2 (2)1.4

练习 4(第 50 页)

A 组

>	0.4	5.3
<	2.7	1.8
<	1.9	5.5
>	3.1	4.1
<	3.4	7.8
<	5.7	0.1
>	2.1	2.1
<	7.8	4.1
<	3.9	9.5
<	5	4.4
>	5.1	3.1
<	4.2	6.5
	9.9	3.2
	5.1	6.9
	5.6	7.1
	4.1	7.9

B 组

1.(1)1 1.2

(2)1.7 2

(3)2.1 1.4

2.6.6

请沿此虚线裁剪下使用

关注微信公众号“教辅资料站”获取更多学习资料

3.42.7

4.0.9

第八单元口算能力测试

（第 51 页）

A 组

<	2	2.5
<	0.6	7.8
>	0.4	7.6
>	3	9.9
<	0.2	5.5
>	4	6.9
<	1.7	4.7
<	7.8	3.1
>	6.1	4.9
<	3.4	8.4
<	8.8	2.4
<	7.6	2.7
	3.2	1.2
	3.4	3.2
	2.7	5.8
	3	4.4

B 组

1.1.9　2.2.5　3.0.3　4.0.2

第九单元　练习 1（第 52 页）

A 组

72	960	1
50	414	2.6
221	900	0.1
480	24	2.2
168	2107	1.3
284	1266	2.7
91	368	7.6
140	1260	1.8
101	238	4.9
650	5600	0.2
810	55	9.9
21	630	3.1
742	355	8.8
1525	104	9.9
90	784	4.2
472	525	8.1

B 组

性别	男	女
人数	80	78

男

练习 2（第 53 页）

A 组

168	2.8	4.9
107	1.8	2.2
3680	0.3	2.7
480	6	2.1
808	7.9	0.6
249	8	0.6
496	9.9	7.9
12	6.8	2.1
460	9.9	1.8
1050	1	6.1
313	9.9	0.9
51	4	4
1812	5.6	7.9
261	9.8	4
222	9.9	0.8
1600	1.6	1.8

B 组

1.100　55　45

2.9　1

练习 3（第 54 页）

A 组

520	770	3.9
15	240	0.9
176	760	5
108	27	2.9
203	255	7.6
420	840	9.7
106	1240	7.8
808	1477	8
492	380	0.7
102	475	0.8
368	92	3.2
570	32	5.3
52	900	2.1
496	312	6.5
680	130	6.2
520	960	1.9

B 组

1.36　24　12　2.2

第九单元口算能力测试

（第 55 页）

A 组

280	1.9	1.6
188	3.2	2.9
29	5.1	9.9
540	5.1	2
123	0.2	2.4
963	3	2.9
61	6	1.2
175	3.6	5.4
14	1.2	8
3680	9.2	5.7
282	8.2	5.5
780	2.3	4.2
51	6.7	5.3
262	1.7	1.1
343	6.1	3.6
530	1.7	6.6

B 组

1.10　16　3　1　30

2.100　3.26

第十单元　练习 1（第 56 页）

A 组

720	1080	350
161	75	140
1020	110	480
296	780	100
150	468	72
249	1260	720
7200	192	50
960	1600	54

请沿此虚线裁剪下使用

关注微信公众号“教辅资料站”获取更多学习资料

351	220	490
750	2444	100
990	390	100
94	1160	540
2048	231	230
124	324	310
154	910	770
1280	696	200

B 组

1. $70\times38=2660$ $48\times56=2688$

$$\begin{array}{r} 38 \\ \times\ 70 \\ \hline 2660 \end{array} \qquad \begin{array}{r} 48 \\ \times\ 56 \\ \hline 288 \\ 240 \\ \hline 2688 \end{array}$$

$37\times80=2960$ $78\times43=3354$

$$\begin{array}{r} 37 \\ \times\ 80 \\ \hline 2960 \end{array} \qquad \begin{array}{r} 78 \\ \times\ 43 \\ \hline 234 \\ 312 \\ \hline 3354 \end{array}$$

2. 144

练习 2（第 57 页）

A 组

810	170	7
135	990	8000
520	900	6000
484	628	300
2040	134	7000
78	2412	5
104	2840	7
690	840	3000
1536	780	8
228	720	50
1560	188	7
476	700	3000
770	440	7000
960	168	6
1224	1290	800
198	1288	2

B 组

1. 1000　1

2. 4

3. 3

练习 3（第 58 页）

A 组

200	80	340
14	252	82
402	650	45
126	324	170
15	780	320
460	160	660
184	856	20
96	740	400
960	930	800
51	108	20
42	140	170
420	484	90
4848	171	31
164	1899	80
1100	100	68
272	150	635

B 组

1. 66

2. 141

3. 187　32

4. 84　28

练习 4（第 59 页）

A 组

1440	30	36
339	90	980
16	600	1800
640	72	50
228	85	127
141	410	30
810	8	17
540	480	1480
220	60	870
168	494	30
1890	30	60
140	50	10
71	184	70
190	63	326
60	15	108
750	780	200

B 组

1. $476-(156+127)$
$=476-283$
$=193$
$36\times(142-81)$
$=36\times61$
$=2196$
$436+567\div7$
$=436+81$
$=517$

2. 575　$830-85\times3$

3. 50　$(420-120)\div6$

练习 5（第 60 页）

A 组

68	13:00	10 小时
560	8:00	7 小时
12	7:30	9 小时
448	15:30	8 小时 30 分钟
102	17:25	10 小时
168	20:50	5 小时
21	5:00	10 小时 30 分钟
312	8:45	12 小时
840	12:00	9 小时 30 分钟
224	18:00	12 小时
183	16:25	12 小时
234	23:40	11 小时
445	10:00	10 小时 30 分钟
61	15:38	8 小时
1266	22:30	14 小时
948		

B 组

1.



2. 585

3. (1)2 小时　7 小时
(2)不能

请沿此虚线裁剪下使用

关注微信公众号“教辅资料站”获取更多学习资料

练习6（第61页）

A组

6	1
7	9
500	17
3000	3200
900	4800
55	100
1600	300
9000	2600
800	88
2	2400
14	50
3	2
2500	72
10	1800
8000	40
400	35

B组

1. 8　12　12
　3　5　5

2. 6

练习7（第62页）

A组

>	$\frac{1}{3}$	$\frac{2}{5}$
>	$\frac{3}{4}$	$\frac{5}{6}$
<	$\frac{4}{5}$	$\frac{3}{7}$
<	$\frac{2}{6}$	$\frac{2}{8}$
>	$\frac{1}{7}$	$\frac{8}{9}$
>	$\frac{7}{8}$	$\frac{9}{10}$
>	$\frac{5}{9}$	$\frac{2}{3}$
>	$\frac{4}{7}$	$\frac{2}{4}$
=	$\frac{5}{6}$	$\frac{2}{8}$
<	$\frac{6}{8}$	$\frac{3}{9}$
	$\frac{4}{10}$	$\frac{8}{10}$
	$\frac{3}{4}$	$\frac{3}{8}$

B组

1. $\frac{7}{10}$　$\frac{3}{10}$　$\frac{5}{10}$
　$\frac{8}{10}$　$\frac{6}{10}$　$\frac{4}{10}$

2. 分一分略。
　9÷3×2=6（支）
　8÷4×3=6（个）
　10÷5×3=6（个）

练习8（第63页）

A组

<	0.8	0.1
>	1.2	2.2
>	6.8	7.2
<	3.1	4.5
>	1.4	2.2
<	7.1	9.7
>	3.9	1.4
<	0.2	2.1
<	7.3	2.1
>	8.6	5.9
<	4.7	7.8
<	9.8	4.1
	8.1	6.2
	1.9	7.9
	4	4.7
	6.6	1.4

B组

1. 1.3>0.9　0.7<2.3
　3.4<4.3

2. 3.7　2.8

3. 6　5　5　4　2　2
　（答案不唯一）

练习9（第64页）

A组

14	450	2.2
690	880	2.3
120	17	4.6
840	100	4.8
49	1860	0.9
252	105	9.2
91	13	2.6
640	70	6.9
296	535	1.2
203	81	8.3
1632	510	0.9
240	540	4.3
650	330	0.7
37	476	1.5
106	55	6.1
780	936	6.9

B组

1. 77　2. 154

口算能力期末综合测评（一）

（第65页）

330	3.2	7
832	2	70
248	2.9	60
322	1	480
3060	4.3	140
637	7.7	77
820	4.5	286
123	9	100
2442	3.7	15
147	4.9	180
121	1.4	163
1800	5.2	99
780	7.8	350
21	0.8	200
268	2.5	50
108	5.6	2800
1890	6	20
2460	2.5	39
50	8.2	50
828	5	70
81	7.9	77
368	1.7	96
102	9.9	20
1020	3	10

请沿此虚线裁剪下使用

关注微信公众号“教辅资料站”获取更多学习资料

82	9.1	184
490	1.8	120

口算能力期末综合测评(二)

(第 66 页)

70	2	1800
172	1.9	2200
600	8	2300
225	2.4	5000
101	4.4	16
216	3.6	32
4000	7.6	5
421	1.1	5
927	8.8	4600
960	3	5400
160	9.8	7000
160	6	800
368	9	7
104	8.4	8800
207	9.7	43
228	2.9	59
28	4	8000
31	6	2
540	5.5	80
81	9.9	96
480	0.1	3000
90	0.2	5700
369	6	3800
91	2.6	6400

54	7.8	9
810	2.8	12

口算能力期末综合测评(三)

(第 67 页)

4680	64	9
85	240	400
13	98	68
70	60	25
840	620	1600
26	225	88
420	60	49
1608	117	6400
660	360	104
336	88	81
1550	128	448
91	1230	36
637		
91		
520		
37		
284		
51		
860		
71		
168		
41		
2430		
642		

7290		
492		

口算能力期末综合测评(四)

(第 68 页)

64	3.1	32
700	2.1	13
540	2	5
5400	3.5	18
360	6.9	60
17	3.8	20
637	7.6	75
101	1.7	100
1244	8	160
960	8.1	106
320	5.1	35
132	8.8	40
21	0.9	0
175	2	480
103	3	130
960	2.8	49
216	0.3	118
61	8.1	69
144	8.8	24
90	9.1	638
690	4.9	22
150	4.1	66
246	7.9	600
105	7.8	720
472	6.2	300
680	2.4	10

请沿此虚线裁剪下使用

关注微信公众号“教辅资料站”获取更多学习资料



口算脑算用心算
巧算速算不难算

荣德基官方网站:
http://www.rudder.com.cn

荣德基天猫旗舰店:
http://rongdeji.tmall.com

荣德基小学频道
获取最新教育资讯

荣德基教育APP
让教和学变得简单

ISBN 978-7-5336-8996-4

定价:21.90元

关注微信公众号“教辅资料站”获取更多学习资料

荣德基

星级口算天天练

三年级数学 下

时代出版传媒股份有限公司
安徽教育出版社