荣德基小学系列

星级口算天天练

三年级 数学 下

主 编：荣德基　本册主编：张杰平

教辅资料站

电子教辅　试卷练习
知识总结　备课资源

扫码关注获取更多学习资料



学 校：

班 级：

姓 名：

喜欢的格言：

时代出版传媒股份有限公司
安 徽 教 育 出 版 社

目录

CONTENTS

第一单元　采访果蔬会 —— 两、三位数除以一位数（二）

练习 1　两位数、几百几十数除以一位数的口算 …… 1
练习 2　三位数除以一位数的笔算（一） …… 2
练习 3　三位数除以一位数的笔算（二） …… 3
练习 4　三位数除以一位数的笔算（三） …… 4
练习 5　商中间有 0 的除法 …… 5
练习 6　商末尾有 0 的除法 …… 6
练习 7　习题课 …… 7
第一单元口算能力测试 …… 8

第二单元　热闹的民俗节 —— 对称

练习　对称现象、轴对称图形 …… 9
第二单元口算能力测试 …… 10

第三单元　美丽的街景 —— 两位数乘两位数

练习 1　两位数乘整十数的口算（一） …… 11
练习 2　两位数乘整十数的口算（二） …… 12
练习 3　两位数乘两位数的不进位笔算（一） … 13
练习 4　两位数乘两位数的不进位笔算（二） … 14
练习 5　两位数乘两位数的不进位笔算（三） … 15
练习 6　两位数乘两位数的进位笔算（一） …… 16
练习 7　两位数乘两位数的进位笔算（二） …… 17
练习 8　两位数乘两位数的进位笔算（三） …… 18
练习 9　习题课（一） …… 19
练习 10　习题课（二） …… 20
第三单元口算能力测试 …… 21

微信公众号 教辅资料站

关注微信公众号“教辅资料站”获取更多学习资料



第四单元　绿色生态园——解决问题

练习1　用连乘解决实际问题 …… 22
练习2　用连除解决实际问题 …… 23
练习3　用先除后乘的方法解决实际问题 …… 24
练习4　用乘除两步计算解决实际问题 …… 25
练习5　习题课（一） …… 26
练习6　习题课（二） …… 27
第四单元口算能力测试 …… 28

第五单元　我家买新房子了——长方形和正方形的面积



练习1　面积和面积单位（一） …… 29
练习2　面积和面积单位（二） …… 30
练习3　长方形和正方形面积的计算（一） … 31
练习4　长方形和正方形面积的计算（二） … 32
练习5　面积单位换算 …… 33
练习6　习题课 …… 34
练习7　周长和面积 …… 35
练习8　习题课（一） …… 36
练习9　习题课（二） …… 37
智慧广场 …… 38
第五单元口算能力测试 …… 39

第六单元　走进天文馆——年、月、日

练习1　24时计时法 …… 40
练习2　时间的计算 …… 41
练习3　年、月、日 …… 42
练习4　习题课 …… 43
第六单元口算能力测试 …… 44



微信公众号 教辅资料站

关注微信公众号“教辅资料站”获取更多学习资料



第七单元　家居中的学问 —— 小数的初步认识

练习 1　小数的读写 …… 45
练习 2　小数的认识 …… 46
练习 3　一位小数的大小比较 …… 47
练习 4　一位小数的加、减法（一） …… 48
练习 5　一位小数的加、减法（二） …… 49
练习 6　习题课 …… 50
智慧广场 …… 51
第七单元口算能力测试 …… 52



第八单元　谁长得快 —— 数据的收集与整理（二）

练习　统计表和统计图 …… 53
第八单元口算能力测试 …… 54

回顾整理 —— 总复习

练习 1　两、三位数除以一位数（二） …… 55
练习 2　对　称 …… 56
练习 3　两位数乘两位数 …… 57
练习 4　解决问题 …… 58
练习 5　长方形和正方形的面积 …… 59
练习 6　年、月、日 …… 60
练习 7　小数的初步认识 …… 61
练习 8　数据的收集与整理 …… 62

口算能力期末综合测评（一） …… 63
口算能力期末综合测评（二） …… 64
口算能力期末综合测评（三） …… 65
口算能力期末综合测评（四） …… 66

参考答案 …… 67

微信公众号
教辅资料站

关注微信公众号“教辅资料站”获取更多学习资料

第一单元 采访果蔬会——两、三位数除以一位数（二）

难易等级：

练习1 两位数、几百几十数除以一位数的口算

用时：____分____秒　错误：　个

A组 常规口算题

200 ÷5 =	65 ÷5 =	280 ÷7 =
250 ÷5 =	720 ÷8 =	78 ÷6 =
24 ÷2 =	33 ÷3 =	420 ÷6 =
120 ÷4 =	36 ÷6 =	180 ÷6 =
96 ÷3 =	240 ÷4 =	64 ÷4 =
150 ÷5 =	560 ÷8 =	560 ÷7 =
240 ÷6 =	540 ÷9 =	240 ÷3 =
350 ÷5 =	320 ÷8 =	990 ÷9 =
480 ÷8 =	42 ÷2 =	630 ÷9 =
72 ÷8 =	55 ÷5 =	44 ÷4 =
64 ÷8 =	42 ÷3 =	48 ÷2 =
64 ÷2 =	540 ÷6 =	69 ÷3 =
340 ÷2 =	66 ÷3 =	490 ÷7 =
360 ÷9 =	120 ÷3 =	99 ÷3 =
84 ÷4 =	150 ÷3 =	420 ÷7 =
36 ÷3 =	240 ÷8 =	360 ÷6 =

B组 变式口算题

1. 一共有120面小旗，平均分给4个班，每个班分得(　　)面。如果平均分给6个班，每个班分得(　　)面。

2. 学校买回6捆书，每捆40本，一共有(　　)本书。把这些书平均分给8个班，每个班可分得(　　)本书。

3. 小明买3本同样的科技书用了75元，买9本同样的故事书用了180元，每本科技书(　　)元，每本故事书(　　)元，(　　)书贵。

关注微信公众号“教辅资料站”获取更多学习资料

练习2 三位数除以一位数的笔算（一） 用时：___分___秒 错误：　个

A组 常规口算题

260 ÷2 =	546 ÷6 =	76 ÷4 =
34 ÷2 =	96 ÷4 =	681 ÷3 =
324 ÷4 =	880 ÷8 =	460 ÷2 =
488 ÷8 =	78 ÷3 =	427 ÷7 =
93 ÷3 =	357 ÷7 =	819 ÷9 =
279 ÷3 =	364 ÷4 =	640 ÷8 =
75 ÷5 =	255 ÷5 =	126 ÷2 =
486 ÷6 =	648 ÷8 =	189 ÷3 =
360 ÷4 =	287 ÷7 =	840 ÷4 =
369 ÷3 =	249 ÷3 =	78 ÷6 =
88 ÷2 =	48 ÷4 =	84 ÷7 =
248 ÷4 =	350 ÷7 =	39 ÷3 =
450 ÷9 =	46 ÷2 =	57 ÷3 =
84 ÷2 =	77 ÷7 =	480 ÷6 =
355 ÷5 =	92 ÷4 =	68 ÷2 =
66 ÷6 =	450 ÷5 =	390 ÷3 =

B组 变式口算题

1. 用竖式计算。

$4\overline{)324}$　　$9\overline{)846}$　　$6\overline{)570}$　　$6\overline{)396}$

2. 实验小学三年级有312名学生，平均分成6个班，每个班有(　　)名学生。

微信公众号 教辅资料站

关注微信公众号“教辅资料站”获取更多学习资料

练习3　三位数除以一位数的笔算（二）

用时：___分___秒　错误：　个

A组　常规口算题

339 ÷3 =	91 ÷7 =	486 ÷2 =
63 ÷3 =	560 ÷8 =	448 ÷2 =
22 ÷2 =	444 ÷2 =	48 ÷4 =
540 ÷6 =	96 ÷8 =	357 ÷3 =
370 ÷5 =	85 ÷5 =	448 ÷8 =
396 ÷3 =	64 ÷4 =	48 ÷3 =
56 ÷4 =	848 ÷4 =	66 ÷2 =
990 ÷3 =	96 ÷6 =	72 ÷2 =
660 ÷6 =	440 ÷2 =	699 ÷3 =
428 ÷2 =	350 ÷5 =	78 ÷2 =
570 ÷3 =	248 ÷2 =	255 ÷5 =
250 ÷5 =	155 ÷5 =	490 ÷7 =
95 ÷5 =	480 ÷8 =	636 ÷3 =
555 ÷5 =	246 ÷3 =	648 ÷8 =
84 ÷4 =	52 ÷4 =	360 ÷6 =
810 ÷9 =	363 ÷3 =	630 ÷9 =

B组　变式口算题

1. 判一判。
   （1）三位数除以一位数，商一定是两位数。（　　）
   （2）一个三位数除以9，商一定是两位数。（　　）
2. 填一填。
   □59 ÷6，如果商是三位数，□里最小可以填（　　），如果商是两位数，□里最大可以填（　　）。
3. 李老师带448元钱给同学们买奖品，每个笔记本4元，每个笔袋8元。如果这些钱全部买笔记本可以买（　　）个，如果这些钱全部买笔袋可以买（　　）个。

微信公众号 教辅资料站

关注微信公众号“教辅资料站”获取更多学习资料

练习4 三位数除以一位数的笔算（三） 用时：___分___秒 错误：　个

A组 常规口算题

249 ÷3 =	72 ÷3 =	65 ÷5 =
186 ÷6 =	82 ÷2 =	96 ÷3 =
57 ÷3 =	92 ÷2 =	68 ÷2 =
42 ÷2 =	150 ÷5 =	216 ÷3 =
76 ÷4 =	48 ÷4 =	87 ÷3 =
98 ÷7 =	56 ÷4 =	96 ÷4 =
185 ÷5 =	427 ÷7 =	729 ÷9 =
328 ÷4 =	328 ÷8 =	44 ÷4 =
637 ÷7 =	276 ÷3 =	217 ÷7 =
115 ÷5 =	42 ÷7 =	38 ÷2 =
549 ÷9 =	364 ÷4 =	66 ÷3 =
990 ÷9 =	99 ÷3 =	92 ÷4 =
420 ÷6 =	288 ÷4 =	86 ÷2 =
355 ÷5 =	390 ÷6 =	426 ÷6 =
248 ÷4 =	357 ÷7 =	84 ÷6 =
369 ÷9 =	88 ÷4 =	78 ÷3 =

B组 变式口算题

1. ☆ ÷□=21……5，□最小是(　　)，这时☆是(　　)。

2. 为了庆祝六一儿童节，同学们一共做了248朵花，每6朵为一束，一共有(　　)束，还剩(　　)朵。

3. 服装厂制作一批工作服，每件上衣需要8颗扣子，729颗扣子能制作(　　)件上衣，还余(　　)颗扣子。

4. 买一件大衣需花684元，买一顶圣诞帽需花6元，买一件大衣的钱最多可以买(　　)顶圣诞帽。

微信公众号 教辅资料站

关注微信公众号“教辅资料站”获取更多学习资料

练习5　商中间有0的除法

用时：___分___秒　错误：　个

A组　常规口算题

802 ÷2 =	627 ÷3 =	150 ÷5 =
309 ÷3 =	324 ÷4 =	816 ÷4 =
804 ÷2 =	525 ÷5 =	728 ÷7 =
603 ÷3 =	436 ÷4 =	530 ÷5 =
432 ÷4 =	505 ÷5 =	545 ÷5 =
804 ÷4 =	808 ÷4 =	954 ÷9 =
927 ÷3 =	160 ÷5 =	609 ÷3 =
624 ÷3 =	0 ÷9 =	642 ÷6 =
95 ÷5 =	96 ÷6 =	856 ÷8 =
812 ÷4 =	497 ÷7 =	105 ÷5 =
416 ÷4 =	408 ÷2 =	818 ÷2 =
515 ÷5 =	624 ÷6 =	921 ÷3 =
54 ÷3 =	816 ÷2 =	614 ÷2 =
636 ÷6 =	164 ÷4 =	81 ÷3 =
450 ÷5 =	832 ÷4 =	72 ÷4 =
369 ÷3 =	88 ÷8 =	360 ÷6 =

B组　变式口算题

填一填。

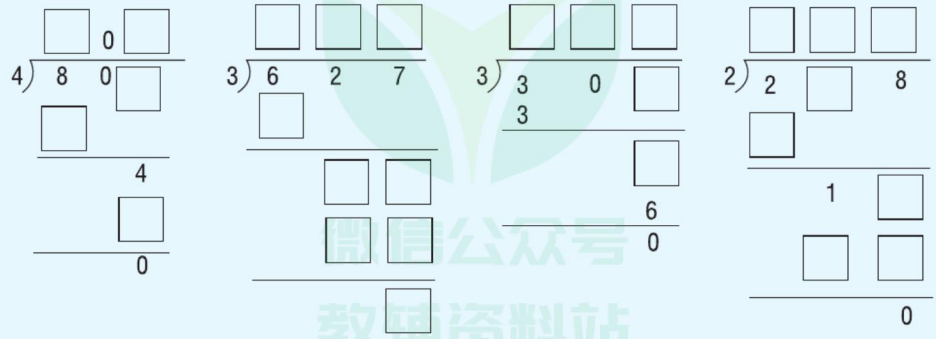

微信公众号 教辅资料站

关注微信公众号“教辅资料站”获取更多学习资料

练习6 商末尾有0的除法

用时：___分___秒 错误：　个

A组 常规口算题

420 ÷6 =	840 ÷4 =	690 ÷3 =
550 ÷5 =	850 ÷5 =	720 ÷3 =
457 ÷9 =	72 ÷6 =	880 ÷4 =
42 ÷3 =	324 ÷8 =	120 ÷4 =
650 ÷5 =	630 ÷3 =	680 ÷2 =
360 ÷3 =	910 ÷7 =	351 ÷5 =
421 ÷7 =	820 ÷2 =	980 ÷2 =
750 ÷5 =	94 ÷2 =	420 ÷3 =
780 ÷6 =	85 ÷5 =	150 ÷3 =
54 ÷3 =	560 ÷4 =	490 ÷7 =
91 ÷7 =	620 ÷2 =	390 ÷3 =
631 ÷3 =	440 ÷4 =	680 ÷4 =
244 ÷6 =	960 ÷8 =	870 ÷3 =
450 ÷3 =	547 ÷9 =	813 ÷9 =
950 ÷5 =	637 ÷3 =	75 ÷3 =
84 ÷2 =	480 ÷4 =	68 ÷4 =

B组 变式口算题

1. 汽车3小时行驶240千米，“和谐号”动车组2小时行驶420千米。

（1）汽车每小时行(　　)千米，“和谐号”动车组每小时行(　　)千米。

（2）“和谐号”动车组每小时比汽车多行(　　)千米。

2. 小华看一本书，打开后左右两页的页码和是81，请你算一算，小华正在阅读的是第(　　)页和第(　　)页。

3. 食堂运进200千克大米，吃了4天后还剩下20千克，平均每天吃(　　)千克大米。

微信公众号 教辅资料站

关注微信公众号“教辅资料站”获取更多学习资料

练习7　习题课

用时：___分___秒　错误：　个

A组　常规口算题

408 ÷2 =	327 ÷8 =	650 ÷5 =
480 ÷3 =	735 ÷7 =	980 ÷7 =
603 ÷3 =	820 ÷2 =	945 ÷9 =
48 ÷4 =	624 ÷6 =	832 ÷4 =
525 ÷5 =	455 ÷9 =	515 ÷5 =
550 ÷5 =	381 ÷2 =	860 ÷2 =
636 ÷6 =	804 ÷4 =	627 ÷3 =
932 ÷3 =	810 ÷3 =	453 ÷9 =
824 ÷4 =	309 ÷3 =	642 ÷6 =
450 ÷9 =	54 ÷6 =	750 ÷5 =
714 ÷7 =	416 ÷4 =	728 ÷7 =
782 ÷6 =	600 ÷4 =	393 ÷3 =
912 ÷3 =	505 ÷5 =	909 ÷9 =
880 ÷8 =	364 ÷6 =	480 ÷4 =
930 ÷8 =	900 ÷5 =	208 ÷2 =
392 ÷3 =	81 ÷9 =	420 ÷4 =

B组　变式口算题

1. 红星小学有189人参加手拉手活动，平均每组有9人，可以分(　　)组。

2. 一只啄木鸟8天共捉了840只害虫，平均每天捉(　　)只害虫。

3. 三年级共有240人，春游时如果租6辆车，平均每辆车坐(　　)人。

4. 学校买来648张贴画，平均分给了3个班，每个班可分(　　)张。

5. 小丽6分钟打246个字，小强3分钟打303个字，小丽平均每分钟打(　　)个字，小强平均每分钟打(　　)个字，(　　)平均每分钟打字多。

关注微信公众号“教辅资料站”获取更多学习资料

第一单元口算能力测试

用时：___分___秒 错误：　个

A组 常规口算题

42 ÷3 =	96 ÷8 =	250 ÷5 =
640 ÷2 =	428 ÷4 =	183 ÷6 =
56 ÷4 =	420 ÷4 =	90 ÷6 =
570 ÷3 =	84 ÷7 =	210 ÷2 =
816 ÷8 =	318 ÷3 =	618 ÷3 =
609 ÷3 =	927 ÷9 =	400 ÷8 =
540 ÷9 =	55 ÷5 =	505 ÷5 =
75 ÷5 =	804 ÷4 =	69 ÷3 =
420 ÷7 =	728 ÷8 =	936 ÷9 =
84 ÷6 =	530 ÷5 =	78 ÷6 =
324 ÷3 =	52 ÷4 =	366 ÷9 =
621 ÷3 =	848 ÷8 =	68 ÷2 =
99 ÷9 =	848 ÷4 =	390 ÷3 =
535 ÷5 =	80 ÷5 =	850 ÷5 =
910 ÷7 =	436 ÷2 =	414 ÷2 =

B组 变式口算题

1. 42 $\xrightarrow{\times 7}$ □ $\xrightarrow{\div 6}$ □ $\xrightarrow{\times 5}$ □ $\xrightarrow{\div 7}$ □ $\xrightarrow{\times 6}$ □

240 $\xrightarrow{\div 5}$ □ $\xrightarrow{\times 6}$ □ $\xrightarrow{\div 3}$ □ $\xrightarrow{\div 6}$ □ $\xrightarrow{\times 9}$ □

2. 光明小学组织学生为贫困灾区捐款，三年级有 4 个班，共捐 680 元，平均每个班捐款(　　)元。

3. 阳光小学有 846 名学生参加了 9 个兴趣小组(每人只能参加一个)，平均每个兴趣小组有(　　)名学生。

微信公众号 教辅资料站

关注微信公众号“教辅资料站”获取更多学习资料

第二单元 热闹的民俗节——对称

练习 对称现象、轴对称图形

用时：___分___秒　错误：　个

A组 常规口算题

350 ÷7 =	78 ÷3 =	420 ÷6 =
484 ÷4 =	160 ÷5 =	88 ÷2 =
560 ÷7 =	402 ÷2 =	69 ÷3 =
728 ÷7 =	420 ÷4 =	408 ÷2 =
960 ÷8 =	570 ÷3 =	268 ÷2 =
400 ÷5 =	820 ÷2 =	630 ÷6 =
96 ÷6 =	91 ÷7 =	315 ÷3 =
243 ÷8 =	120 ÷4 =	412 ÷4 =
98 ÷7 =	700 ÷7 =	550 ÷5 =
39 ÷3 =	48 ÷2 =	714 ÷7 =
903 ÷3 =	530 ÷5 =	824 ÷4 =
111 ÷3 =	927 ÷3 =	49 ÷7 =
360 ÷9 =	840 ÷6 =	630 ÷7 =
120 ÷5 =	271 ÷9 =	560 ÷4 =
108 ÷9 =	640 ÷8 =	88 ÷4 =
707 ÷7 =	909 ÷9 =	65 ÷5 =

B组 变式口算题

下面哪些图形是轴对称图形？（是的在（　　）里打“√”，不是的在（　　）里打“×”）



（　　）　（　　）　（　　）　（　　）



（　　）　（　　）　（　　）　（　　）

微信公众号 教辅资料站

关注微信公众号“教辅资料站”获取更多学习资料

第二单元口算能力测试

用时：____分____秒 错误：　个

A组 常规口算题

68 ÷4 =
86 ÷2 =
150 ÷5 =
426 ÷6 =
312 ÷3 =
93 ÷3 =
808 ÷4 =
351 ÷5 =
770 ÷7 =
520 ÷5 =
600 ÷4 =
900 ÷3 =
309 ÷3 =
426 ÷8 =
250 ÷5 =
279 ÷9 =

305 ÷5 =
248 ÷4 =
816 ÷8 =
490 ÷7 =
660 ÷2 =
420 ÷3 =
980 ÷7 =
549 ÷9 =
81 ÷3 =
94 ÷2 =
168 ÷4 =
0 ÷7 =
186 ÷6 =
560 ÷8 =
800 ÷5 =
95 ÷5 =

◆ 比较大小。

182 ÷8 ◯ 20
457 ÷6 ◯ 70
90 ◯ 820 ÷9
70 ◯ 432 ÷6
88 ◯ 364 ÷4
527 ÷7 ◯ 71
639 ÷7 ◯ 88
312 ÷4 ◯ 83
94 ◯ 527 ÷5
18 ◯ 102 ÷5
24 ◯ 116 ÷6
57 ◯ 541 ÷6
29 ◯ 312 ÷8
837 ÷9 ◯ 90

B组 变式口算题

下面的图形各是从哪张纸上剪下来的？连一连。

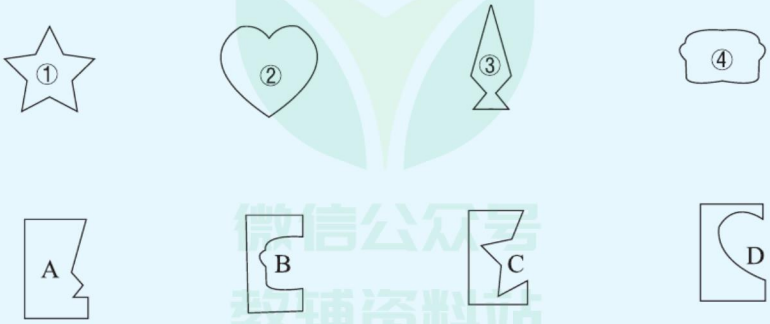

关注微信公众号“教辅资料站”获取更多学习资料

练习1 两位数乘整十数的口算（一）

用时：___分___秒 错误：　个

A组 常规口算题

11 ×9 =	23 ×30 =	50 ×12 =
19 ×40 =	32 ×20 =	79 ×10 =
40 ×20 =	31 ×20 =	40 ×13 =
34 ×2 =	13 ×70 =	17 ×30 =
12 ×40 =	11 ×80 =	10 ×60 =
46 ×20 =	16 ×60 =	22 ×40 =
33 ×3 =	43 ×10 =	30 ×32 =
27 ×30 =	37 ×20 =	37 ×2 =
21 ×40 =	56 ×10 =	20 ×13 =
17 ×50 =	42 ×20 =	30 ×90 =
13 ×30 =	60 ×30 =	30 ×31 =
25 ×3 =	28 ×3 =	23 ×40 =
50 ×40 =	33 ×20 =	20 ×32 =
14 ×20 =	42 ×10 =	70 ×80 =
40 ×30 =	31 ×3 =	71 ×3 =
12 ×6 =	27 ×2 =	11 ×4 =

B组 变式口算题

1. 水果店运来三种水果。你能算出各种水果能卖多少元吗？

水果名称	每筐的价格(元)	筐数	总价(元)
苹果	48	20	
橘子	30	25	
梨	40	30	

2. 游乐园门票 70 元一张，李阿姨一行 50 人，共需(　　)元钱来买门票。

3. 

这一页一共有(　　)个字。

微信公众号 教辅资料站

关注微信公众号“教辅资料站”获取更多学习资料

练习2 两位数乘整十数的口算（二）

用时：___分___秒 错误：　个

A组 常规口算题

64 ×2 =	44 ×3 =	50 ×11 =
19 ×50 =	37 ×20 =	30 ×26 =
52 ×3 =	43 ×4 =	20 ×44 =
30 ×23 =	29 ×30 =	40 ×23 =
22 ×30 =	21 ×20 =	20 ×21 =
34 ×20 =	61 ×10 =	40 ×11 =
32 ×4 =	78 ×2 =	20 ×43 =
60 ×20 =	36 ×20 =	32 ×3 =
12 ×30 =	21 ×30 =	30 ×21 =
47 ×20 =	17 ×40 =	40 ×21 =
96 ×2 =	30 ×40 =	20 ×22 =
11 ×40 =	10 ×29 =	77 ×2 =
46 ×50 =	20 ×30 =	34 ×3 =
23 ×3 =	27 ×4 =	50 ×70 =
20 ×90 =	35 ×5 =	20 ×80 =
41 ×4 =	40 ×60 =	13 ×4 =

B组 变式口算题

小猴送信。



关注微信公众号“教辅资料站”获取更多学习资料

练习3　两位数乘两位数的不进位笔算（一）

用时：___分___秒　错误：　个

A组　常规口算题

24 ×20 =	26 ×20 =	36 ×20 =
31 ×3 =	35 ×4 =	15 ×70 =
17 ×10 =	2 ×73 =	34 ×20 =
20 ×5 =	42 ×20 =	17 ×4 =
32 ×20 =	33 ×30 =	16 ×3 =
23 ×3 =	42 ×3 =	42 ×10 =
18 ×40 =	65 ×2 =	13 ×40 =
28 ×4 =	77 ×1 =	16 ×5 =
38 ×10 =	87 ×10 =	26 ×30 =
53 ×3 =	53 ×20 =	19 ×40 =
62 ×20 =	47 ×3 =	21 ×50 =
25 ×3 =	51 ×30 =	11 ×60 =
36 ×4 =	39 ×2 =	12 ×80 =
41 ×20 =	24 ×3 =	51 ×3 =
57 ×10 =	75 ×3 =	72 ×30 =
72 ×2 =	61 ×20 =	38 ×2 =

B组　变式口算题

1. 王师傅每小时加工 18 个零件，那么他工作 14 小时可以加工多少个零件？在括号内填上合适的数。

```
  1 8
×1 4
  7 2 ……工作（　）小时加工（　　）个零件
1 8   ……工作（　）小时加工（　　）个零件
2 5 2 ……工作（　）小时加工（　　）个零件
```

2. 一幢大楼有 21 层，每层有 23 户，这幢大楼一共有（　　）户。

关注微信公众号“教辅资料站”获取更多学习资料

练习4 两位数乘两位数的不进位笔算（二）

用时：___分___秒 错误：　个

A组 常规口算题

35 ×6 =
24 ×30 =
63 ×2 =
40 ×80 =
22 ×30 =
52 ×2 =
37 ×20 =
18 ×40 =
30 ×60 =
24 ×5 =
26 ×30 =
50 ×50 =
32 ×30 =
29 ×3 =
19 ×50 =

18 ×3 =
35 ×20 =
60 ×60 =
32 ×4 =
23 ×4 =
47 ×30 =
70 ×80 =
32 ×2 =
26 ×1 =
57 ×2 =
24 ×20 =
52 ×3 =
67 ×20 =
60 ×40 =
32 ×20 =

◆ 比较大小。

34 ×22 ◯ 600
55 ×11 ◯ 550
460 ◯ 23 ×20
570 ◯ 31 ×12
737 ◯ 22 ×41
45 ×20 ◯ 700
44 ×21 ◯ 1000
83 ×11 ◯ 830
23 ×32 ◯ 600
25 ×30 ◯ 700
42 ×5 ◯ 220
1500 ◯ 278 ×5

B组 变式口算题

1. 补全竖式。

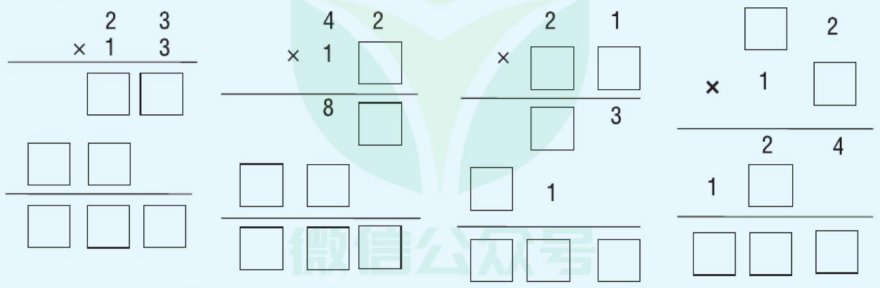

2. 童装店上午卖出童装20套，下午卖出3套，每套童装的售价为30元。全天共卖出(　　)套，这些童装一共卖了(　　)元。

关注微信公众号“教辅资料站”获取更多学习资料

练习5　两位数乘两位数的不进位笔算（三）

用时：____分____秒　错误：　个

A组　常规口算题

24 ×10 =	71 ×30 =	31 ×30 =
50 ×16 =	30 ×50 =	23 ×20 =
60 ×50 =	10 ×90 =	60 ×13 =
18 ×50 =	40 ×50 =	20 ×15 =
30 ×29 =	61 ×60 =	13 ×70 =
40 ×16 =	30 ×80 =	45 ×3 =
38 ×20 =	62 ×40 =	40 ×41 =
72 ×30 =	19 ×10 =	60 ×70 =
27 ×3 =	70 ×11 =	40 ×70 =
43 ×20 =	35 ×30 =	42 ×40 =
40 ×60 =	75 ×10 =	20 ×63 =
50 ×20 =	30 ×12 =	10 ×36 =
14 ×60 =	80 ×3 =	20 ×24 =
51 ×80 =	40 ×17 =	72 ×20 =
69 ×10 =	35 ×3 =	34 ×3 =
50 ×90 =	42 ×30 =	26 ×4 =

B组　变式口算题

用竖式计算。

32 ×11 =　　12 ×34 =　　23 ×23 =　　21 ×43 =

微信公众号
教辅资料站

关注微信公众号“教辅资料站”获取更多学习资料

练习6 两位数乘两位数的进位笔算（一）

用时：____分____秒 错误：　个

A组 常规口算题

34 ×2 =	63 ×20 =	43 ×20 =
44 ×20 =	15 ×50 =	51 ×10 =
35 ×20 =	28 ×30 =	39 ×2 =
19 ×40 =	34 ×20 =	46 ×20 =
27 ×3 =	94 ×2 =	17 ×5 =
21 ×40 =	18 ×40 =	83 ×2 =
15 ×60 =	20 ×11 =	47 ×20 =
12 ×11 =	52 ×20 =	16 ×20 =
16 ×50 =	26 ×3 =	14 ×70 =
37 ×20 =	87 ×10 =	13 ×30 =
14 ×50 =	33 ×20 =	21 ×30 =
38 ×2 =	16 ×60 =	25 ×4 =
91 ×3 =	37 ×40 =	36 ×20 =
52 ×30 =	95 ×2 =	51 ×50 =
13 ×40 =	71 ×2 =	24 ×30 =
11 ×50 =	25 ×12 =	18 ×30 =

B组 变式口算题

补全竖式。

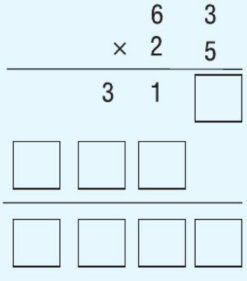

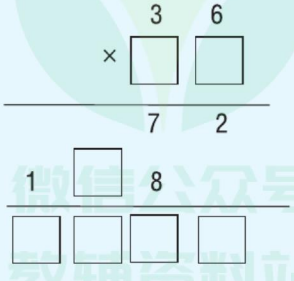

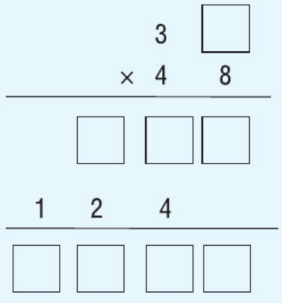

微信公众号 教辅资料站

关注微信公众号“教辅资料站”获取更多学习资料

练习7　两位数乘两位数的进位笔算（二）

用时：____分____秒　错误：　个

A组　常规口算题

35 ×40 =	45 ×20 =	13 ×10 =
35 ×2 =	19 ×3 =	15 ×20 =
23 ×30 =	24 ×40 =	13 ×40 =
32 ×3 =	92 ×4 =	27 ×3 =
58 ×2 =	36 ×20 =	22 ×4 =
18 ×40 =	31 ×50 =	32 ×30 =
19 ×50 =	43 ×2 =	45 ×3 =
15 ×60 =	73 ×3 =	11 ×40 =
18 ×30 =	31 ×40 =	19 ×30 =
92 ×3 =	25 ×30 =	24 ×4 =
47 ×20 =	89 ×2 =	31 ×60 =
39 ×20 =	17 ×50 =	19 ×20 =
16 ×40 =	15 ×40 =	22 ×30 =
12 ×70 =	56 ×2 =	23 ×4 =
96 ×10 =	49 ×20 =	36 ×3 =
27 ×30 =	21 ×40 =	51 ×20 =

B组　变式口算题

1. 一页书有21行，每行有28个字，这页书大约有(　　)个字。
2. 25 ×40 积的末尾一共有(　　)个0。
3. 两位数乘两位数的积可能是(　　)位数，也可能是(　　)位数。
4. 两个因数都是15，它们的积是(　　)。
5. 40的5倍是(　　)，40是(　　)的5倍。
6. 小李平均每分钟打83个字，他1小时(　　)打完一篇5000个字的稿件。（填“能”或“不能”）

关注微信公众号“教辅资料站”获取更多学习资料

练习8 两位数乘两位数的进位笔算（三）

用时：____分____秒 错误：　个

A组 常规口算题

30 ×14 =	19 ×30 =	90 ×30 =
5 ×80 =	18 ×10 =	14 ×40 =
24 ×30 =	20 ×16 =	52 ×20 =
20 ×17 =	40 ×51 =	39 ×10 =
63 ×2 =	30 ×43 =	50 ×13 =
56 ×10 =	62 ×10 =	88 ×10 =
41 ×30 =	20 ×45 =	92 ×20 =
24 ×40 =	20 ×47 =	42 ×3 =
40 ×70 =	37 ×4 =	80 ×30 =
50 ×19 =	30 ×27 =	40 ×23 =
17 ×3 =	16 ×30 =	71 ×30 =
30 ×15 =	20 ×21 =	43 ×20 =
20 ×43 =	28 ×30 =	50 ×18 =
12 ×60 =	80 ×12 =	35 ×20 =
6 ×71 =	52 ×30 =	30 ×41 =
65 ×10 =	40 ×18 =	15 ×5 =

B组 变式口算题

用竖式计算并验算。

35 ×42 =

验算

72 ×48 =

验算

关注微信公众号“教辅资料站”获取更多学习资料

练习9　习题课（一）

用时：___分___秒　错误：　个

A组　常规口算题

33 ×20 =	11 ×10 =	13 ×60 =
22 ×40 =	42 ×30 =	20 ×45 =
11 ×50 =	17 ×50 =	40 ×23 =
25 ×30 =	50 ×80 =	20 ×25 =
17 ×40 =	5 ×18 =	72 ×5 =
43 ×3 =	32 ×40 =	16 ×50 =
14 ×5 =	12 ×8 =	40 ×70 =
60 ×30 =	30 ×70 =	32 ×50 =
30 ×34 =	12 ×70 =	50 ×71 =
50 ×30 =	15 ×60 =	31 ×40 =
60 ×20 =	20 ×32 =	20 ×50 =
30 ×32 =	33 ×30 =	15 ×90 =
69 ×10 =	72 ×20 =	15 ×40 =
32 ×3 =	45 ×3 =	70 ×30 =
27 ×4 =	57 ×2 =	73 ×4 =
44 ×40 =	60 ×80 =	39 ×2 =

B组　变式口算题

计算。

37 ×28 ÷7	(57 +138) ÷5	27 +63 ×21
448 ÷8 −16	281 −11 ×12	3 ×(127 −64)

关注微信公众号“教辅资料站”获取更多学习资料

练习 10 习题课（二）

用时：___分___秒 错误：　个

A组 常规口算题

72 ×5 =	27 ×6 =	47 ×4 =
25 ×9 =	25 ×8 =	33 ×6 =
55 ×7 =	7 ×60 =	3 ×39 =
40 ×5 =	54 ×3 =	49 ×4 =
67 ×4 =	2 ×38 =	20 ×90 =
70 ×15 =	55 ×70 =	12 ×30 =
20 ×80 =	80 ×50 =	40 ×45 =
12 ×50 =	12 ×80 =	33 ×50 =
54 ×10 =	69 ×10 =	14 ×50 =
25 ×60 =	25 ×4 =	50 ×32 =
20 ×32 =	4 ×22 =	7 ×31 =
4 ×21 =	40 ×50 =	30 ×22 =
41 ×20 =	40 ×20 =	60 ×12 =
62 ×30 =	20 ×30 =	64 ×20 =
30 ×70 =	27 ×4 =	17 ×3 =
51 ×3 =	60 ×30 =	42 ×6 =

B组 变式口算题

下表是晨光商店 2019 年 2 月份出售的部分商品的情况，请将表格填写完整。

商品种类				
单价	12 元	23 元	15 元	13 元
卖出数量	58 辆	26 个	35 副	96 支
总价	(　　)元	(　　)元	(　　)元	(　　)元

关注微信公众号“教辅资料站”获取更多学习资料

第三单元口算能力测试

用时：____分____秒　错误：　个

A组 常规口算题

8 ×12 =	5 ×14 =	4 ×14 =
5 ×90 =	14 ×6 =	42 ×3 =
7 ×11 =	6 ×17 =	35 ×5 =
8 ×15 =	30 ×30 =	42 ×30 =
60 ×5 =	20 ×4 =	14 ×10 =
80 ×15 =	14 ×50 =	34 ×50 =
60 ×15 =	15 ×6 =	11 ×10 =
12 ×5 =	25 ×30 =	35 ×40 =
17 ×20 =	27 ×30 =	30 ×14 =
17 ×50 =	3 ×25 =	16 ×30 =
80 ×80 =	17 ×3 =	14 ×3 =
15 ×4 =	16 ×40 =	26 ×5 =
33 ×3 =	23 ×6 =	43 ×20 =
40 ×60 =	48 ×2 =	62 ×30 =
55 ×4 =	70 ×70 =	60 ×50 =
32 ×3 =	21 ×7 =	16 ×60 =

B组 变式口算题

1. 数学门诊。（对的打“√”，错的打“×”，并改正）

```
  49
× 23
----
 147
  98
----
 245
```

改正：（　　）

```
  94
× 25
----
 470
 188
----
2350
```

改正：（　　）

2. 一个坏了的水龙头每分钟要浪费 68 克水，1 小时浪费（　　）克水。

关注微信公众号“教辅资料站”获取更多学习资料

难易等级：

练习1 用连乘解决实际问题

用时：___分___秒　错误：　个

A组 常规口算题

14 ×15 =	7 ×61 =	30 ×21 =
25 ×60 =	2 ×18 =	32 ×50 =
5 ×12 =	4 ×81 =	80 ×40 =
20 ×63 =	22 ×8 =	60 ×60 =
42 ×15 =	52 ×5 =	72 ×15 =
50 ×60 =	11 ×63 =	15 ×40 =
24 ×25 =	50 ×40 =	25 ×90 =
30 ×60 =	35 ×18 =	50 ×30 =
42 ×5 =	36 ×7 =	44 ×50 =
25 ×48 =	25 ×12 =	25 ×32 =
25 ×68 =	20 ×70 =	19 ×11 =
50 ×90 =	55 ×80 =	80 ×12 =
60 ×14 =	17 ×14 =	19 ×20 =
25 ×70 =	40 ×90 =	20 ×60 =
15 ×6 =	44 ×3 =	52 ×3 =
18 ×9 =	16 ×4 =	75 ×2 =

B组 变式口算题

1. 学校买来一批课本，一共有 9 箱，每箱 16 捆，每捆 25 本，每箱有(　　)本，一共运来(　　)本课本。

2. 一台磨面机每小时可磨面粉 60 千克，5 台这样的磨面机 12 小时可以磨面粉(　　)千克。

3. 每本相册有 32 页，每页可放 8 张照片，共有 5 本这样的相册，可放(　　)张照片。

关注微信公众号“教辅资料站”获取更多学习资料

练习2　用连除解决实际问题

用时：___分___秒　错误：　个

A组　常规口算题

45 ÷5 =	600 ÷4 =	520 ÷4 =
560 ÷8 =	50 ÷2 =	520 ÷5 =
309 ÷3 =	369 ÷3 =	15 ×7 =
249 ÷3 =	549 ÷9 =	360 ÷6 =
140 ÷2 =	630 ÷6 =	94 ÷2 =
15 ×6 =	420 ÷2 =	85 ÷5 =
43 ×3 =	88 ÷4 =	24 ×3 =
355 ÷5 =	14 ×7 =	639 ÷3 =
624 ÷6 =	56 ÷2 =	124 ÷4 =
960 ÷3 =	83 ×2 =	426 ÷2 =
328 ÷4 =	95 ÷5 =	728 ÷8 =
34 ×2 =	350 ÷7 =	459 ÷9 =
515 ÷5 =	99 ÷9 =	19 ×4 =
360 ÷3 =	654 ÷6 =	540 ÷6 =
600 ×7 =	812 ÷4 =	312 ÷3 =
4500 ÷9 =	810 ÷3 =	806 ÷2 =

B组　变式口算题

1. 三年级有 360 人，平均分成 6 个队做操，每个队平均分成 5 行，每个队有（　　）人，每行有（　　）人。
2. 一共有 777 支铅笔，每 7 支装一袋，每 3 袋装一盒，这些铅笔可以装（　　）袋，可以装（　　）盒。
3. 李老师用 560 元买了 7 套故事书，每套 8 本，平均每本（　　）元。
4. 工厂一共有 136 根木头，要 4 人一次运完，每人运 2 捆，每捆一样多，每捆有（　　）根。

关注微信公众号“教辅资料站”获取更多学习资料

练习3 用先除后乘的方法解决实际问题

用时：___分___秒 错误：　个

A组 常规口算题

5 ×80 =	50 ×30 =	50 ×20 =
60 ×90 =	248 ÷4 =	240 ÷8 =
246 ÷3 =	26 ×30 =	60 ×40 =
41 ×30 =	217 ÷7 =	35 ×2 =
91 ×20 =	52 ×20 =	216 ÷3 =
630 ÷7 =	450 ÷5 =	21 ×2 =
320 ×4 =	59 ×10 =	480 ÷6 =
560 ÷7 =	309 ÷3 =	515 ÷5 =
246 ÷6 =	360 ÷4 =	20 ×9 =
110 ×7 =	410 ÷2 =	90 ×7 =
720 ÷3 =	3 ×17 =	136 ÷4 =
41 ×2 =	28 ×20 =	23 ×30 =
42 ×4 =	440 ÷8 =	60 ×80 =
156 ÷4 =	20 ×90 =	304 ÷2 =
71 ×4 =	75 ÷3 =	65 ×10 =
20 ×30 =	11 ×90 =	66 ×40 =

B组 变式口算题

1. 买5张电影票要用200元，照这样计算，买16张电影票要用(　　)元。
2. 服装城3件同样的上衣共卖156元，买5件这样的上衣需(　　)元。
3. 亮亮做60道口算题用5分钟，照这样计算，12分钟亮亮能做(　　)道口算题。
4. “神舟”飞船每3秒飞行24千米，照这样计算，它每分钟可以飞行(　　)千米。
5. 一个没有拧紧的水龙头平均5分钟浪费270克水，照这样计算，这个水龙头1小时要浪费(　　)克水。

关注微信公众号“教辅资料站”获取更多学习资料

练习4　用乘除两步计算解决实际问题

用时：___分___秒　错误：　个

A组　常规口算题

61 ×90 =	24 ×30 =	208 ÷4 =
35 ×10 =	980 ÷7 =	40 ×20 =
156 ÷3 =	11 ×30 =	41 ×40 =
40 ×71 =	705 ÷5 =	248 ÷4 =
20 ×70 =	23 ×20 =	10 ×55 =
540 ÷6 =	720 ÷9 =	810 ÷2 =
20 ×7 =	486 ÷6 =	36 ÷3 =
19 ×3 =	18 ×20 =	640 ÷8 =
460 ÷5 =	61 ×3 =	21 ×7 =
360 ÷6 =	404 ÷4 =	155 ÷5 =
63 ×20 =	78 ÷2 =	20 ×59 =
88 ×10 =	50 ×21 =	135 ÷3 =
606 ÷6 =	146 ÷2 =	42 ×3 =
31 ×80 =	90 ×60 =	50 ×80 =
30 ×12 =	91 ÷7 =	400 ÷5 =
150 ÷3 =	80 ×80 =	648 ÷8 =

B组　变式口算题

1. 小芳读一本书，每天读 16 页，6 天恰好可以读完，如果要 4 天读完，每天需要读(　　)页。

2. 招待所来了一批客人，每间住 4 人，需要 18 间房，如果每间住 6 人，需要(　　)间房。

3. 修一条公路，如果每天修 80 米，8 天可以修完，现在要 5 天修完，平均每天需要修(　　)米。

关注微信公众号“教辅资料站”获取更多学习资料

练习5 习题课（一）

用时：___分___秒 错误：　个

A组 常规口算题

300 ÷4 =	12 ×30 =	104 ÷2 =
25 ×30 =	450 ÷3 =	25 ×40 =
156 ÷2 =	31 ×30 =	30 ×52 =
72 ×20 =	22 ×40 =	408 ÷3 =
14 ×20 =	8 ×20 =	20 ×40 =
550 ÷5 =	808 ÷4 =	549 ÷9 =
210 ÷3 =	12 ×6 =	980 ÷2 =
11 ×7 =	424 ÷4 =	80 ×4 =
14 ×4 =	800 ÷5 =	70 ×7 =
510 ÷3 =	16 ×4 =	780 ÷3 =
306 ÷3 =	30 ×90 =	95 ×10 =
20 ×80 =	216 ÷3 =	416 ÷4 =
208 ÷4 =	15 ×50 =	75 ×20 =
90 ×70 =	30 ×60 =	38 ÷2 =
70 ×50 =	490 ÷7 =	20 ×19 =
96 ÷6 =	61 ×30 =	520 ÷5 =

B组 变式口算题

1. 用650元买了5个同样的篮球，篮球的单价是(　　)。

A. 130元　　B. 110元　　C. 140元

2. 全班有30人，每人折15个星星，送给9个小朋友；每个小朋友平均可以分得(　　)个。

A. 18　　B. 50　　C. 5

3. 学校进行体操表演，120名同学组成了2个花束队。每个花束队排4列，平均每列有(　　)名同学。

A. 30　　B. 15　　C. 16

关注微信公众号“教辅资料站”获取更多学习资料

练习6　习题课（二）

用时：___分___秒　错误：　个

A组　常规口算题

468 ÷9 =	308 ÷2 =	813 ÷3 =
51 ×70 =	26 ×20 =	22 ×2 =
117 ÷3 =	980 ÷4 =	16 ×50 =
16 ×40 =	90 ×70 =	720 ÷3 =
25 ×40 =	408 ÷2 =	50 ×90 =
650 ÷5 =	24 ×4 =	186 ÷6 =
60 ×80 =	910 ÷7 =	12 ×4 =
808 ÷8 =	20 ×18 =	14 ×40 =
98 ÷7 =	5 ×15 =	486 ÷6 =
15 ×30 =	690 ÷3 =	15 ×20 =
99 ÷3 =	918 ÷9 =	21 ×30 =
27 ×20 =	80 ×50 =	240 ÷4 =
60 ×90 =	28 ×30 =	90 ×30 =
28 ×20 =	32 ×40 =	12 ×8 =
405 ÷5 =	77 ÷7 =	720 ÷4 =
120 ÷4 =	90 ×61 =	936 ÷9 =

B组　变式口算题

1. 我会脱式计算。

3 ×7 ×24	516 ÷6 ×23	44 ×(26 +39)
=	=	=
=	=	=

2. 为迎接母亲节，花店运进一批康乃馨，如果每 8 朵扎一束，可以扎 96 束，如果每 6 朵扎一束，可以扎(　　)束。

关注微信公众号“教辅资料站”获取更多学习资料

第四单元口算能力测试

用时：___分___秒 错误：　个

A组 常规口算题

80 ×40 =	72 ×20 =	186 ÷6 =
205 ÷5 =	305 ÷5 =	60 ×21 =
30 ×40 =	12 ×6 =	156 ÷3 =
420 ÷3 =	23 ×30 =	43 ×20 =
52 ×40 =	280 ÷7 =	420 ÷5 =
300 ÷5 =	22 ×10 =	2 ×72 =
25 ×3 =	124 ÷4 =	96 ÷3 =
909 ÷9 =	20 ×44 =	140 ÷5 =
61 ×50 =	73 ×30 =	12 ×20 =
23 ×40 =	520 ÷2 =	160 ÷4 =
36 ×2 =	728 ÷8 =	188 ÷2 =
642 ÷2 =	66 ÷6 =	91 ×30 =
31 ×5 =	39 ×20 =	981 ÷9 =
280 ÷4 =	366 ÷6 =	90 ×70 =
56 ÷4 =	10 ×99 =	164 ÷4 =
6 ×70 =	14 ×60 =	37 ×3 =

B组 变式口算题

1. 文具店卖出5盒钢笔，每盒24支，每支8元，一共卖了(　　)元。

2. 班级一共有180块橡皮泥，平均分给9个小组，每个小组4人，平均每人分得(　　)块橡皮泥。

3. 小明5分钟打字300个，照这样计算，18分钟能够打字(　　)个。

4. 学校组织学生去看电影，如果租每辆可坐36人的客车，需租12辆，如果租每辆可坐24人的小客车，需租(　　)辆。

关注微信公众号“教辅资料站”获取更多学习资料

练习1 面积和面积单位（一）

用时：___分___秒 错误：　个

A组 常规口算题

10 ×20 =	35 ×4 =	78 ÷6 =
22 ×2 =	42 ÷3 =	24 ×5 =
123 ÷3 =	20 ×40 =	256 ÷8 =
98 ÷2 =	27 ×20 =	524 ÷4 =
19 ×20 =	86 ×4 =	192 ÷8 =
30 ×30 =	55 ×6 =	33 ×6 =
18 ×3 =	324 ÷6 =	20 ×60 =
405 ÷5 =	50 ×30 =	55 ÷5 =
56 ÷4 =	184 ÷4 =	18 ×30 =
36 ×5 =	72 ÷3 =	49 ×2 =
488 ÷8 =	44 ×3 =	497 ÷7 =
21 ×30 =	43 ×20 =	22 ×40 =
44 ÷4 =	62 ×3 =	504 ÷9 =
276 ÷3 =	312 ÷3 =	30 ×80 =
28 ×5 =	693 ÷3 =	62 ×6 =
125 ÷5 =	784 ÷7 =	222 ÷6 =

B组 变式口算题

1. 作业本(　　)的大小就是作业本封面的面积，国旗的面积是指(　　)。
2. 用4个面积为1平方厘米的正方形，拼成下面的图形。求每个图形的周长和面积。



周长 =(　　)厘米
面积 =(　　)平方厘米

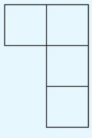

周长 =(　　)厘米
面积 =(　　)平方厘米

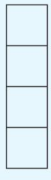

周长 =(　　)厘米
面积 =(　　)平方厘米

关注微信公众号“教辅资料站”获取更多学习资料

练习2 面积和面积单位（二）

用时：___分___秒 错误：　个

A组 常规口算题

41 ×10 =	99 ÷3 =
333 ÷3 =	43 ×2 =
16 ×9 =	50 ×60 =
20 ×50 =	37 ×20 =
36 ÷2 =	183 ÷3 =
192 ÷6 =	224 ÷4 =
22 ×5 =	165 ÷5 =
328 ÷4 =	77 ×3 =
285 ÷3 =	256 ÷4 =
84 ÷6 =	49 ×10 =
15 ×20 =	510 ÷6 =
30 ×40 =	40 ×70 =
24 ×4 =	177 ÷3 =
51 ÷3 =	736 ÷8 =
161 ÷7 =	426 ÷6 =
230 ÷5 =	288 ÷3 =

◆ 在（　　）内填上合适的单位名称。

计算机屏幕的面积大约是8（　　）。

教室地面面积是58（　　）。

一枚邮票面积是4（　　）。

一块手帕面积是4（　　）。

一块黑板面积是4（　　）。

学校操场跑道长400（　　）。

小明身高128（　　）。

小丽腰围6（　　）。

计算机键盘数字键面积是1（　　）。

一张100元人民币的面积约是120（　　）。

一根跳绳长2（　　）。

一张床长2（　　）。

数学书厚11（　　）。

课桌面的面积是32（　　）。

足球场占地7200（　　）。

教室窗户长15（　　）。

B组 变式口算题

数一数，下面每个图形的面积各是多少。（每个小方格代表1cm^2）

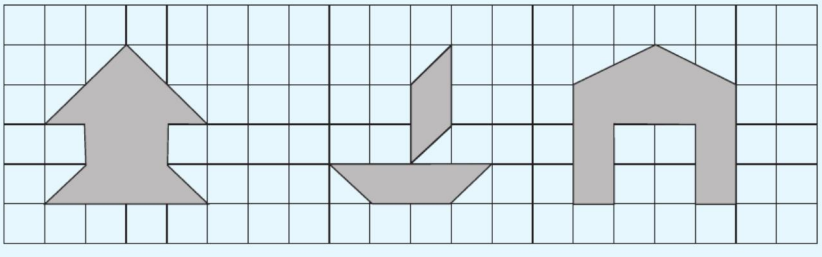

（　　）cm^2　　（　　）cm^2　　（　　）cm^2

关注微信公众号“教辅资料站”获取更多学习资料

练习3　长方形和正方形面积的计算（一）

用时：____分____秒　错误：　个

A组　常规口算题

43 ×5 =	81 ÷3 =	◆ 长方形、正方形面积公式的应用。
185 ÷5 =	20 ×80 =	长 =12 米，宽 =8 米
87 ×20 =	39 ×20 =	面积 =（　　）平方米
40 ×90 =	152 ÷4 =	长 =7 米，宽 =5 米
252 ÷7 =	115 ÷5 =	面积 =（　　）平方米
207 ÷9 =	396 ÷9 =	边长 =14 米，面积 =（　　）平方米
880 ÷4 =	33 ×8 =	边长 =13 米，面积 =（　　）平方米
260 ÷4 =	291 ÷3 =	宽 =4 厘米，面积 =36 平方厘米
91 ×3 =	40 ×50 =	长 =（　　）厘米
62 ×5 =	174 ÷6 =	长 =9 厘米，面积 =72 平方厘米
84 ÷7 =	92 ×20 =	宽 =（　　）厘米
132 ÷2 =	330 ÷3 =	边长 =15 米，面积 =（　　）平方米
336 ÷8 =	53 ×4 =	边长 =8 米，面积 =（　　）平方米
51 ×5 =	258 ÷6 =	边长 =19 米，面积 =（　　）平方米
80 ×60 =	441 ÷7 =	长 =4 分米，宽 =2 分米
450 ÷3 =	61 ×7 =	面积 =（　　）平方分米

B组　变式口算题

求下面图形的面积。

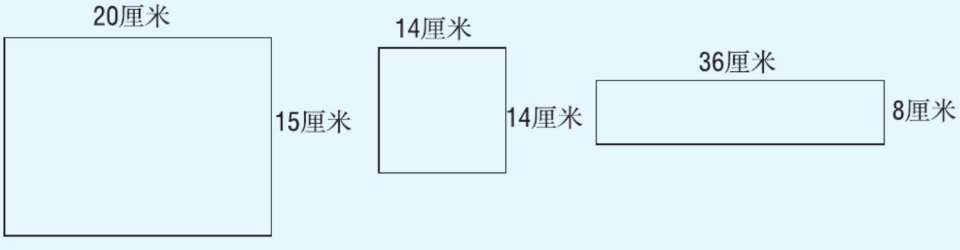

面积 =（　　）平方厘米　面积 =（　　）平方厘米　面积 =（　　）平方厘米

关注微信公众号“教辅资料站”获取更多学习资料

练习4 长方形和正方形面积的计算（二）

用时：____分____秒 错误：　个

A组 常规口算题

35 ×5 =　　80 ×9 =

180 ÷6 =　　310 ÷2 =

20 ×60 =　　56 ×20 =

51 ×20 =　　47 ×2 =

90 ÷6 =　　110 ÷5 =

512 ÷8 =　　88 ÷4 =

232 ÷4 =　　73 ×3 =

42 ×40 =　　900 ÷6 =

248 ÷8 =　　53 ×2 =

133 ÷7 =　　917 ÷7 =

98 ÷7 =　　80 ×80 =

88 ×20 =　　23 ×30 =

363 ÷3 =　　45 ×4 =

158 ÷2 =　　70 ×60 =

37 ×3 =　　230 ÷5 =

360 ÷8 =　　228 ÷4 =

◆ 长方形、正方形面积公式的应用。

长 =32 厘米，宽 =16 厘米

面积 =(　　)平方厘米

长 =6 分米，面积 =18 平方分米

宽 =(　　)分米

长 =19 米，宽 =12 米

面积 =(　　)平方米

边长 =70 分米，面积 =(　　)平方分米

边长 =6 米，面积 =(　　)平方米

边长 =3 米，面积 =(　　)平方米

边长 =40 厘米，面积 =(　　)平方厘米

宽 =9 米，面积 =99 平方米

长 =(　　)米

长 =15 米，宽 =4 米

面积 =(　　)平方米

长 =6 分米，宽 =3 分米

面积 =(　　)平方分米

B组 变式口算题

1. 长方形的面积 =(　　)，正方形的面积 =(　　)。

2. 一个长方形地基的面积是 126 平方米，宽是 9 米，长是(　　)米。

3. 一块正方形草坪的边长为 4 米，它的面积是(　　)平方米。

4. 铺 1 平方米的草坪需要 25 元，铺一块长 45 米，宽 20 米的长方形草坪需要(　　)元。

5. 一块正方形铁皮，边长为 11 米，每平方米刷漆需要 4 元，给铁皮两面都刷漆共需(　　)元。

关注微信公众号“教辅资料站”获取更多学习资料

练习5　面积单位换算

用时：____分____秒　错误：　个

A组　常规口算题

3 平方米 =(　　)平方分米
6 平方分米 =(　　)平方厘米
300 平方分米 =(　　)平方米
(　　)平方分米 =4 平方米
(　　)平方分米 =300 平方厘米
200 平方分米 =(　　)平方米
30 平方米 =(　　)平方分米
(　　)平方厘米 =7 平方分米
(　　)平方分米 =600 平方厘米
1 平方米 =(　　)平方分米
200 平方厘米 =(　　)平方分米
(　　)平方米 =700 平方分米
(　　)平方分米 =3 平方米
(　　)平方厘米 =12 平方分米
(　　)平方分米 =50 平方米
14 平方分米 =(　　)平方厘米

1 平方分米 =(　　)平方厘米
400 平方厘米 =(　　)平方分米
600 平方分米 =(　　)平方米
7 平方米 =(　　)平方分米
8 平方米 =(　　)平方分米
(　　)平方厘米 =9 平方分米
(　　)平方分米 =1100 平方厘米
40 平方分米 =(　　)平方厘米
15 平方分米 =(　　)平方厘米
100 平方分米 =(　　)平方米
(　　)平方分米 =37 平方米
(　　)平方分米 =500 平方厘米
21 平方米 =(　　)平方分米
(　　)平方分米 =9 平方米
(　　)平方厘米 =8 平方分米
34 平方米 =(　　)平方分米

B组　变式口算题

1. 一张长方形桌子长 2 米，宽 5 分米，这张长方形桌子的面积是(　　)平方分米，合(　　)平方米。
2. 公园里有长方形、正方形两个花圃，周长相等，长方形花圃长 32 分米，宽 8 分米，长方形花圃的面积是(　　)平方分米，正方形花圃的边长是(　　)分米，面积是(　　)平方分米，合(　　)平方米。
3. 一根铁丝围成了一个长 28 厘米，宽 12 厘米的长方形。如果把铁丝拉直后再围成一个正方形，这个正方形的面积是(　　)平方分米。

关注微信公众号“教辅资料站”获取更多学习资料

练习6 习题课

用时：___分___秒 错误：　个

A组 常规口算题

◆ 求长方形、正方形的面积。

长=15分米，宽=3分米，面积=(　　)平方分米

长=30厘米，宽=15厘米，面积=(　　)平方厘米

长=6米，宽=4米，面积=(　　)平方米

长=1米，宽=7分米，面积=(　　)平方分米

长=5分米，宽=4分米，面积=(　　)平方分米

长=24厘米，宽=20厘米，面积=(　　)平方厘米

长=16厘米，宽=10厘米，面积=(　　)平方厘米

长=6米，宽=5分米，面积=(　　)平方分米

边长=6分米，面积=(　　)平方分米

边长=11米，面积=(　　)平方米

边长=25厘米，面积=(　　)平方厘米

边长=30分米，面积=(　　)平方分米

边长=50米，面积=(　　)平方米

边长=23厘米，面积=(　　)平方厘米

边长=3米，面积=(　　)平方米

600平方分米=(　　)平方米

1平方米=(　　)平方分米

10平方分米=(　　)平方厘米

2平方米=(　　)平方分米

(　　)平方分米=1700平方厘米

4300平方厘米=(　　)平方分米

900平方分米=(　　)平方米

(　　)平方分米=3平方米

(　　)平方分米=600平方厘米

8平方米=(　　)平方分米

22平方分米=(　　)平方厘米

3500平方厘米=(　　)平方分米

1000平方厘米=(　　)平方分米

800平方厘米=(　　)平方分米

200平方分米=(　　)平方米

30平方分米=(　　)平方厘米

B组 变式口算题

1. 一个正方形的边长是5 cm，它的面积是(　　)cm^2。

2. 一个长方形的长是8dm，宽是6dm，它的面积是(　　)dm^2。

3. 我们音乐教室地面的宽是8m，宽比长短2m，它的面积是(　　)m^2。

4. 小兰家的客厅的地面是一个长8米，宽4米的长方形，要在客厅地面上铺满木地板，如果每平方米木地板的售价为98元，则一共需要(　　)元。

关注微信公众号“教辅资料站”获取更多学习资料

练习7　周长和面积

用时：___分___秒　错误：　个

A组　常规口算题

◆ 求长方形的周长或面积。

长=12厘米，宽=8厘米，
面积=(　　)平方厘米

长=9米，宽=4米，
面积=(　　)平方米

长=15分米，宽=12分米，
周长=(　　)分米

长=27厘米，宽=10厘米，
面积=(　　)平方厘米

长=50米，宽=30米，
面积=(　　)平方米

长=130厘米，宽=4分米，
面积=(　　)平方分米

长=7米，宽=50分米，
周长=(　　)米

长=13厘米，宽=9厘米，
面积=(　　)平方厘米

◆ 求正方形的周长或面积。

边长=7米，面积=(　　)平方米

边长=10厘米，面积=(　　)平方厘米

边长=24分米，周长=(　　)分米

边长=11米，周长=(　　)米

边长=9米，面积=(　　)平方米

边长=8分米，面积=(　　)平方分米

边长=20厘米，面积=(　　)平方厘米

边长=21分米，周长=(　　)分米

边长=11厘米，面积=(　　)平方厘米

边长=30分米，周长=(　　)分米

边长=17米，周长=(　　)米

边长=40厘米，面积=(　　)平方厘米

边长=50厘米，周长=(　　)厘米

边长=5厘米，面积=(　　)平方厘米

边长=6分米，周长=(　　)分米

B组　变式口算题

填一填。

图形	长	宽	周长	面积
长方形	10分米	5分米		
	12厘米		40厘米	
		5米		50平方米
正方形	边长	6米		
			40厘米	
				64平方分米

关注微信公众号“教辅资料站”获取更多学习资料

练习8 习题课（一）

用时：___分___秒 错误：　个

A组 常规口算题

40 ×50 =	136 ÷4 =	◆ 求长方形、正方形的面积或周长。
62 ×2 =	30 ×70 =	边长 =5 米，面积 =(　　)平方米，
72 ÷3 =	23 ×6 =	周长 =(　　)米
29 ×30 =	96 ÷8 =	长 =10 米，宽 =7 米，
154 ÷2 =	32 ×30 =	面积 =(　　)平方米
189 ÷9 =	15 ×40 =	长 =12 分米，宽 =1 米，
38 ×5 =	700 ÷5 =	面积 =(　　)平方分米
300 ÷4 =	40 ×5 =	边长 =9 分米，面积 =(　　)平方分米，
960 ÷8 =	135 ÷9 =	周长 =(　　)分米
275 ÷5 =	16 ×7 =	边长 =11 米，面积 =(　　)平方米，
50 ×90 =	20 ×90 =	周长 =(　　)米
470 ÷2 =	296 ÷4 =	长 =5 米，宽 =45 分米，
88 ×7 =	99 ÷9 =	面积 =(　　)平方分米
60 ÷4 =	14 ×50 =	长 =1 米，宽 =70 厘米，
26 ×4 =	93 ÷3 =	面积 =(　　)平方分米
440 ÷8 =	88 ×2 =	边长 =4 厘米，面积 =(　　)平方厘米

B组 变式口算题

1. 一块麦田的形状是一个边长为 10m 的正方形，它的面积是(　　)。

A. 40m^2　　B. 100m　　C. 100m^2

2. 用两个大小相同的正方形拼成一个长方形，长方形的面积与两个正方形的面积的和相比较，(　　)。

A. 长方形的面积大　　B. 长方形的面积小　　C. 两者相等

3. 一块边长是 50 dm 的正方形草坪的面积是(　　) dm^2，周长是(　　)dm。

关注微信公众号“教辅资料站”获取更多学习资料

练习9　习题课（二）

用时：___分___秒　错误：　个

A组　常规口算题

45 ÷9 =	34 ×2 =
66 ÷3 =	10 ×30 =
22 ×7 =	396 ÷3 =
53 ×20 =	69 ÷3 =
50 ×80 =	100 ÷4 =
90 ÷5 =	35 ×4 =
630 ÷5 =	20 ×20 =
102 ÷3 =	66 ×2 =
43 ×7 =	129 ÷3 =
550 ÷5 =	15 ×30 =
224 ÷8 =	56 ÷2 =
222 ÷6 =	440 ÷5 =
48 ×5 =	37 ×10 =
9 ×25 =	85 ×3 =
37 ×20 =	200 ÷8 =

◆ 求长方形、正方形的面积或周长。

长 =6 厘米，宽 =4 厘米，

面积 =(　　)平方厘米

边长 =20 分米，周长 =(　　)分米

边长 =9 米，面积 =(　　)平方米

长 =10 分米，宽 =8 分米，

面积 =(　　)平方分米

长 =40 米，宽 =20 米，

周长 =(　　)米，面积 =(　　)平方米

边长 =8 厘米，周长 =(　　)厘米

边长 =4 分米，面积 =(　　)平方分米

边长 =4 分米，周长 =(　　)分米

长 =18 米，宽 =7 米，

周长 =(　　)米，面积 =(　　)平方米

长 =5 分米，宽 =4 厘米，

面积 =(　　)平方厘米

B组　变式口算题

1. 一个长方形的长是 9cm，宽是 5cm，它的周长是(　　)cm，面积是(　　)cm^2。

2. 一个正方形的周长是 12cm，它的面积是(　　)cm^2。

3.

		长(cm)	宽(cm)	面积(cm^2)	周长(cm)
长方形		12	4		
			9	144	
		24			74
正方形	边长(cm)		6		
					20

关注微信公众号“教辅资料站”获取更多学习资料

智慧广场

用时：____分____秒 错误：　个

A组 常规口算题

26 ÷2 =	52 ÷4 =	333 ÷3 =
202 ÷2 =	240 ÷2 =	412 ÷4 =
16 ×10 =	36 ×20 =	75 ÷5 =
21 ×40 =	37 ÷3 =	330 ÷3 =
15 ×20 =	12 ×50 =	25 ×4 =
17 ×30 =	484 ÷4 =	615 ÷3 =
23 ×20 =	25 ×40 =	46 ×20 =
52 ÷2 =	424 ÷4 =	59 ÷5 =
840 ÷4 =	36 ×30 =	318 ÷3 =
32 ×40 =	44 ÷2 =	25 ×30 =
515 ÷5 =	808 ÷4 =	550 ÷5 =
963 ÷3 =	690 ÷3 =	42 ×40 =
33 ×30 =	55 ×20 =	864 ÷4 =
510 ÷5 =	23 ×30 =	636 ÷6 =
38 ×6 =	78 ÷6 =	86 ÷2 =
14 ×40 =	35 ×40 =	49 ×30 =

B组 变式口算题

王师傅有一桶油，卖了一半之后，又卖了 10 升，现在这桶油有 32 升，这桶油原来有(　　)升。

按事情发生的顺序进行推算：

原有？升 ⟷ ÷(　　)=(　　) ⟷ 卖了一半 ⟷ (　　)=(　　) ⟷ 现有 32 升

列式：_____

关注微信公众号“教辅资料站”获取更多学习资料

第五单元口算能力测试

用时：___分___秒　错误：　个

A组 常规口算题

4 米 =(　　)分米

4 平方米 =(　　)平方分米

700 平方厘米 =(　　)平方分米

50 厘米 =(　　)分米

600 厘米 =(　　)米

1 厘米 =(　　)毫米

1200 平方分米 =(　　)平方米

(　　)平方米 =900 平方分米

(　　)平方分米 =1400 平方厘米

(　　)厘米 =2 分米

(　　)分米 =400 厘米

8 平方分米 =(　　)平方厘米

1000 平方厘米 =(　　)平方分米

45 分米 =(　　)厘米

600 毫米 =(　　)厘米

71 平方分米 =(　　)平方厘米

◆ **求长方形、正方形的面积或周长。**

长 =5 米，宽 =4 米，

面积 =(　　)平方米

长 =14 分米，宽 =11 分米，

面积 =(　　)平方分米

长 =9 厘米，宽 =6 厘米，

面积 =(　　)平方厘米

长 =1 米，宽 =8 分米，

面积 =(　　)平方分米

边长 =2 米，面积 =(　　)平方米

边长 =6 分米，周长 =(　　)分米

边长 =8 厘米，面积 =(　　)平方厘米

长 =42 分米，宽 =2 米，

面积 =(　　)平方分米

长 =55 厘米，宽 =3 分米，

面积 =(　　)平方厘米

长 =11 厘米，宽 =7 厘米，

面积 =(　　)平方厘米

长 =6 米，宽 =5 分米，

面积 =(　　)平方分米

B组 变式口算题

我是小法官。

1. 一个边长为 4 分米的正方形，它的面积是 16 平方米。(　　)
2. 一个长方形的长是 8 分米，宽是 5 分米，如果把这个长方形的长减少 3 分米，就变成了一个正方形。(　　)
3. 把一个正方形平均分成 2 个相等的小长方形，每个小长方形的周长和面积都是正方形的一半。(　　)
4. 一个边长为 4 厘米的正方形，它的周长与面积相等。(　　)
5. 周长大的图形，面积就一定大。(　　)
6. 一个长方形与一个正方形的周长相等，它们的面积也一定相等。(　　)

关注微信公众号“教辅资料站”获取更多学习资料

练习1　24时计时法

用时：____分____秒　错误：　个

A组 常规口算题

24 ÷2 =	◆ 用24时计时法表示。	◆ 用普通计时法表示。
120 ÷3 =	下午4:45(　　)	15:40(　　)
12 ×20 =	上午10:15(　　)	9:25(　　)
11 ×10 =	凌晨2:30(　　)	14:15(　　)
22 ×20 =	中午12:05(　　)	20:20(　　)
12 ×3 =	晚上8:00(　　)	24时(　　)
21 ×4 =	下午5:30(　　)	23:14(　　)
28 ×30 =	半夜12时(　　)	19:00(　　)
122 ÷2 =	早晨7:20(　　)	20:00(　　)
62 ÷2 =	上午9:15(　　)	7:15(　　)
22 ×30 =	中午12:30(　　)	10:18(　　)
46 ÷2 =	下午3:20(　　)	9:08(　　)
135 ÷5 =	下午4:05(　　)	12:12(　　)
12 ×50 =	晚上9:20(　　)	14:07(　　)
14 ×50 =	晚上10:08(　　)	16:24(　　)
111 ÷3 =	上午8:50(　　)	17:50(　　)

B组 变式口算题

晚上11时 ①　　下午5时45分 ②　　早上7时30分 ③　　下午2时15分 ④


A


B


C


D

7:30 ⑤　　17:45 ⑥　　23:00 ⑦　　14:15 ⑧

关注微信公众号“教辅资料站”获取更多学习资料

练习2　时间的计算

用时：____分____秒　错误：　个

A组　常规口算题

150 ÷5 =	◆ 用24时计时法表示。	◆ 用普通计时法表示。
33 ÷3 =	下午3:00(　　)	9:30(　　)
18 ×20 =	上午5:30(　　)	17:30(　　)
25 ×4 =	中午12:10(　　)	12:00(　　)
12 ×8 =	晚上8:00(　　)	13:30(　　)
68 ÷4 =	凌晨1:00(　　)	10:00(　　)
124 ÷4 =	下午1:00(　　)	8:00(　　)
16 ×20 =	上午9:00(　　)	1:00(　　)
25 ×80 =	下午4:30(　　)	0:30(　　)
75 ×20 =	上午10:30(　　)	5:00(　　)
75 ÷5 =	上午10:50(　　)	11:00(　　)
640 ÷8 =	晚上10:50(　　)	14:30(　　)
19 ×40 =	中午12:00(　　)	15:40(　　)
888 ÷8 =	下午2:00(　　)	16:00(　　)
212 ÷2 =	晚上9:00(　　)	20:00(　　)
27 ×30 =	上午9:50(　　)	22:00(　　)

B组　变式口算题

1. 从上午10时到下午5时，经过了(　　)小时。

2. 某天，火车14时从甲地开出，18时到达乙地，途中行驶了(　　)小时。

3. 海底世界上午9时开馆，下午4时闭馆，每天开放(　　)小时。

4. 下面分别是邮局和超市的营业时间，(　　)的营业时间长，长(　　)小时。

邮局	超市
9:00～18:00	8:30～21:30

关注微信公众号“教辅资料站”获取更多学习资料

练习3 年、月、日

用时：___分___秒 错误：　个

A组 常规口算题

22 ×4 =	420 ÷3 =
800 ÷4 =	37 ×20 =
350 ÷5 =	408 ÷8 =
12 ×70 =	33 ×30 =
25 ×30 =	40 ×50 =
66 ÷2 =	39 ×2 =
416 ÷4 =	420 ÷6 =
357 ÷7 =	27 ×2 =
218 ÷2 =	12 ×3 =
16 ×5 =	47 ×50 =
14 ×7 =	195 ÷5 =
31 ×5 =	31 ×6 =
20 ×43 =	404 ÷4 =
153 ÷3 =	18 ×7 =
44 ×2 =	260 ÷5 =
66 ×70 =	30 ×9 =

◆ 判断下面的年份是平年还是闰年。

2004年(　　)
1992年(　　)
1900年(　　)
2008年(　　)
1932年(　　)
1800年(　　)
2000年(　　)
2003年(　　)
2014年(　　)
2002年(　　)
1736年(　　)
1888年(　　)
1600年(　　)
1920年(　　)
1840年(　　)
1982年(　　)

B组 变式口算题

1. 判一判。

(1)第三季度共有90天。(　　)

(2)一年有6个大月,6个小月。(　　)

(3)明明的爸爸出差了,4月31日才能回来。(　　)

2. 丽丽是2008年出生的,2019年(　　)岁,亮亮2019年时12岁,他是(　　)年出生的。

3. 中华人民共和国是(　　)年10月1日成立的,到2019年10月1日是(　　)周年。

关注微信公众号“教辅资料站”获取更多学习资料

练习4　习题课

用时：____分____秒　错误：　个

A组　常规口算题

450 ÷5 =	15 ×4 =	16 ×5 =
13 ×2 =	648 ÷8 =	88 ÷4 =
23 ×3 =	72 ÷4 =	390 ÷3 =
36 ×20 =	17 ×40 =	21 ×24 =
357 ÷7 =	800 ÷2 =	27 ×2 =
91 ÷7 =	11 ×9 =	18 ×5 =
488 ÷8 =	92 ÷2 =	78 ÷6 =
53 ×30 =	43 ×3 =	630 ÷7 =
65 ÷5 =	520 ÷5 =	36 ×30 =
32 ×3 =	18 ×50 =	963 ÷3 =
48 ×20 =	81 ÷9 =	630 ÷6 =
540 ÷6 =	57 ×2 =	355 ÷5 =
306 ÷3 =	936 ÷9 =	19 ×4 =
96 ÷4 =	22 ×14 =	246 ÷3 =
13 ×12 =	34 ×2 =	515 ÷5 =
981 ÷9 =	868 ÷2 =	40 ×5 =

B组　变式口算题

1. 商店的营业时间是从上午 8:30 到下午 5:30，商店一天营业(　　)小时。
2. 我们学校从 1 月 18 日开始放寒假，2 月 15 日开学报到，这个假期共(　　)天。
3. 一本书佳佳要看 18 天，她从 6 月 18 日开始看，(　　)月(　　)日才能看完。
4. 一场电影从晚上 8:00 开始，到 22:00 结束，这场电影播放了(　　)小时。
5. 佳佳在暑假期间练习钢琴，从 7 月 12 日到 7 月 28 日，每天都要练习 3 小时，这段时间佳佳一共练琴(　　)小时。

关注微信公众号“教辅资料站”获取更多学习资料

第六单元口算能力测试

用时：___分___秒 错误：　个

A组 常规口算题

490 ÷7 =	940 ÷2 =	369 ÷3 =
18 ×9 =	17 ×3 =	91 ×2 =
15 ×40 =	568 ÷8 =	43 ×4 =
84 ÷3 =	12 ×50 =	840 ÷8 =
318 ÷3 =	93 ÷3 =	16 ×4 =
15 ×30 =	324 ÷3 =	45 ×2 =
55 ÷5 =	16 ×40 =	405 ÷5 =
19 ×4 =	15 ×4 =	29 ×3 =
804 ÷2 =	420 ÷7 =	37 ×20 =
70 ×90 =	45 ÷3 =	660 ÷6 =
26 ×3 =	36 ÷9 =	88 ÷4 =
426 ÷6 =	27 ×3 =	42 ×3 =
41 ×3 =	31 ×4 =	570 ÷3 =
540 ÷3 =	160 ÷5 =	43 ×3 =
78 ÷3 =	30 ×51 =	96 ÷6 =

B组 变式口算题

选一选。

1. 爸爸17:30开始运动，1小时30分后结束，结束时间是(　　)。

A. 19:00　　B. 7:30　　C. 18:00　　D. 16:00

2. 下列年份中，(　　)是闰年。

A. 1900年　　B. 1964年　　C. 2015年　　D. 2019年

3. 在一天的时间里，钟表上的时针正好走(　　)圈。

A. 1　　B. 2　　C. 24　　D. 不能确定

4. 小明在姥姥家连住了两个月，正好是62天，这两个月是(　　)。

A. 2月和3月　　B. 3月和5月　　C. 7月和8月　　D. 不能确定

关注微信公众号“教辅资料站”获取更多学习资料

难易等级：

练习1 小数的读写

用时：___分___秒　错误：　个

A组 常规口算题

14 ×5 =	3.45 读作：_____	一点三　写作：_____
94 ×20 =	2.60 读作：_____	十点五　写作：_____
84 ÷6 =	36.6 读作：_____	三点六　写作：_____
31 ×4 =	1.2 读作：_____	五点二　写作：_____
39 ×2 =	0.5 读作：_____	一点七　写作：_____
535 ÷5 =	7.13 读作：_____	零点六　写作：_____
105 ÷5 =	5.31 读作：_____	十五点二　写作：_____
17 ×4 =	0.64 读作：_____	十三点一　写作：_____
27 ×3 =	12.7 读作：_____	六点零　写作：_____
426 ÷6 =	1.55 读作：_____	七点二　写作：_____
43 ×30 =	8.3 读作：_____	八点三　写作：_____
170 ÷2 =	1.67 读作：_____	五点九　写作：_____
34 ×2 =	15.7 读作：_____	九点一　写作：_____
350 ÷5 =	0.9 读作：_____	二十点三　写作：_____
69 ÷3 =	18.2 读作：_____	十六点零　写作：_____
91 ÷7 =	1.82 读作：_____	十点九　写作：_____

B组 变式口算题

写出横线上的小数。

1. 小明的身高是一点三六米。（　　）

2. 珠穆朗玛峰的海拔高度为八千八百四十四点四三米。（　　）

3. 笔筒的高是零点一八米。（　　）

4. 教室门高二点零米。（　　）

5. 操场长二百点一六米。（　　）

关注微信公众号“教辅资料站”获取更多学习资料

练习2 小数的认识

用时：___分___秒 错误：　个

A组 常规口算题

12 ×3 =		8.2	读作：_____	三点二四	写作：_____
75 ×30 =		9.7	读作：_____	一点二	写作：_____
440 ÷2 =		0.45	读作：_____	二百点六	写作：_____
24 ×22 =		31.2	读作：_____	一点五八	写作：_____
355 ÷5 =		8.06	读作：_____	五点二四	写作：_____
18 ×9 =		12.4	读作：_____	十点一	写作：_____
26 ×20 =		80.1	读作：_____	五十点三	写作：_____
48 ÷3 =		5.74	读作：_____	七点五	写作：_____
51 ×6 =		6.3	读作：_____	八点六	写作：_____
17 ×5 =		2.70	读作：_____	九点二四	写作：_____
92 ÷4 =		0.3	读作：_____	十一点二	写作：_____
41 ×70 =		25.5	读作：_____	五点零	写作：_____
72 ÷6 =		3.05	读作：_____	九点九	写作：_____
81 ÷3 =		14.1	读作：_____	十点一零	写作：_____
25 ×4 =		0.41	读作：_____	零点五	写作：_____

B组 变式口算题

1. 4角是$\frac{(\quad)}{(\quad)}$元，还可以写成(　　)元。
   7元2角写成小数是(　　)元。
2. 7分米是$\frac{(\quad)}{(\quad)}$米，还可以写成(　　)米，9米6分米写成小数是(　　)米。
3. 看图填上合适的分数和小数。

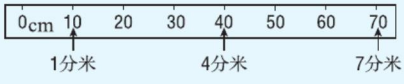

$\frac{(\quad)}{(\quad)}$米　$\frac{(\quad)}{(\quad)}$米　$\frac{(\quad)}{(\quad)}$米
(　　)米　(　　)米　(　　)米

4.



共(　　)元。

关注微信公众号“教辅资料站”获取更多学习资料

练习3　一位小数的大小比较

用时：___分___秒　错误：　个

A组　常规口算题

56 ÷4 =	15 ×3 =	◆ 比较大小。
23 ×30 =	11 ×8 =	0.4 ◯ 0.7
24 ×5 =	51 ÷3 =	2.3 ◯ 2.1
21 ×40 =	25 ×4 =	36.6 ◯ 34.6
98 ÷2 =	30 ×62 =	4.7 ◯ 5.1
450 ÷3 =	21 ×5 =	4.3 ◯ 4.1
819 ÷9 =	39 ÷3 =	10.2 ◯ 11.4
16 ×4 =	560 ÷8 =	3.5 ◯ 2.4
510 ÷3 =	17 ×5 =	6.4 ◯ 6.6
609 ÷3 =	405 ÷5 =	8.7 ◯ 9.7
408 ÷4 =	17 ×3 =	18.8 ◯ 18.5
48 ×5 =	848 ÷4 =	0.9 ◯ 1.1
32 ×3 =	990 ÷3 =	4.9 ◯ 5
74 ÷2 =	19 ×4 =	8.8 ◯ 9.5
848 ÷8 =	220 ÷4 =	12.4 ◯ 12.6
26 ×30 =	312 ÷3 =	26.57 ◯ 2.5

B组　变式口算题

1. 请把下面两组数从大到小排列。

(1)3.5 千克　4.7 千克　3.1 千克　5.8 千克

(　　) > (　　) > (　　) > (　　)

(2)13.5 元　12.5 元　10.9 元　23 元

(　　) > (　　) > (　　) > (　　)

2. 下面是 5 名同学 100 米赛跑成绩，请把前三名同学的名字写在领奖台上。

姓名	小华	小军	小强	小刚	小英
成绩	17.8 秒	18.7 秒	21.4 秒	18.8 秒	19.8 秒

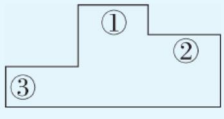

关注微信公众号“教辅资料站”获取更多学习资料

练习4 一位小数的加、减法（一）

用时：___分___秒 错误：　个

A组 常规口算题

0.7 +0.1 =	0.4 −0.3 =	4.5 −2.3 =
1.8 −0.6 =	3.9 −1.7 =	1.4 +0.9 =
4.5 +2.3 =	5.8 −1.4 =	4.9 −0.3 =
6.2 −3.1 =	3.1 +1.4 =	4.4 +0.4 =
14.5 −3.1 =	4.9 −2.7 =	8.6 −7.5 =
8.8 +1.1 =	8.1 +4.6 =	7.4 +8.5 =
12.4 +1.5 =	0.9 −0.4 =	31.8 −14.2 =
13.9 −4.1 =	0.8 +1.3 =	15.6 +1.3 =
10.4 −3.1 =	5.7 −3.6 =	2.1 −0.9 =
7.4 +1.2 =	4.7 +1.2 =	4.5 +3.8 =
6.4 −1.7 =	9.4 −1.4 =	0.2 +0.7 =
8.5 +1.3 =	5.7 −1.6 =	10.4 −5.1 =
9.8 −1.7 =	4.4 +1.5 =	3.4 −2.2 =
12.4 −1.4 =	9.4 −1.3 =	0.6 +0.9 =
45.6 −1.6 =	3.2 +1.5 =	8.9 −2.8 =
8.9 −2.3 =	14.6 +5.1 =	8.7 −1.4 =

B组 变式口算题

1. 我是小法官。

（1）小数都比整数小。（　　）

（2）3 角 8 分用“元”作单位是 0.38 元。（　　）

（3）比 0.2 大且比 0.4 小的小数只有 0.3。（　　）

（4）1 米比 0.6 米多 4 厘米。（　　）

2. 红红买圆珠笔用去 2.5 元，买笔袋用去 12.4 元，红红一共花了（　　）元。红红给老板 20 元钱，应找回（　　）元。

关注微信公众号“教辅资料站”获取更多学习资料

练习5　一位小数的加、减法（二）

用时：___分___秒　错误：　个

A组　常规口算题

0.2 +2.8 =	1.5 +1.5 =	6.8 +0.2 =
4.3 +1.7 =	2.4 +3.7 =	7.7 +1.5 =
9.4 −1.5 =	2.6 −0.9 =	4.5 +2.6 =
2.4 +0.7 =	7.5 +0.5 =	8.2 −2.3 =
10.8 +2.2 =	4.7 +1.6 =	8.8 +0.4 =
7.6 −1.7 =	2.4 +2.8 =	3.9 +1.3 =
13.3 −2.7 =	1.9 +1.8 =	7.6 +1.8 =
1.9 +2.5 =	3.2 +1.9 =	4.5 −1.6 =
8.4 −1.5 =	5.5 −2.7 =	4.8 +2.8 =
17.2 +0.8 =	2.6 +6.8 =	9.7 −1.9 =
6.5 +1.9 =	4.3 −2.7 =	6.6 −4.9 =
12.2 −0.3 =	4.7 −2.8 =	9.4 −1.7 =
4.1 −1.2 =	3.8 +4.6 =	5.5 +2.8 =
11.3 +1.8 =	12.5 +2.6 =	14.3 −1.8 =
19.6 −1.7 =	2.4 −1.8 =	6.4 +3.7 =
4.8 +3.6 =	12.4 +3.8 =	2.7 −1.9 =

B组　变式口算题

1.

0.4	1.6	15.2	5.6
+ 0.5	− 0.5	− 8.3	+ 1.8

2. 甲数是9.2，比乙数多2.5，甲、乙两数的和是(　　)。

3. 比1.5与3.4的和多0.7的数是(　　)。

4. 一个长方形的长为1米4分米，宽比长短8分米，则长是(　　)米，宽是(　　)米，周长是(　　)米。

关注微信公众号“教辅资料站”获取更多学习资料

练习6 习题课

用时：____分____秒 错误：　个

A组 常规口算题

1.2 +0.8 =	1.5 +0.6 =	2.4 −1.5 =
3.2 +1.8 =	2.5 +1.7 =	4.4 +1.7 =
3.4 −1.5 =	4.8 +2.6 =	5.2 −4.3 =
7.2 −1.8 =	5.6 +3.8 =	7.4 −1.7 =
2.5 +4.9 =	12.3 +3.9 =	16.2 −4.7 =
4.4 −1.8 =	6.9 +2.7 =	11.2 −0.8 =
10.2 +1.9 =	11.4 −0.7 =	13.3 +2.7 =
3.5 +2.8 =	4.7 +1.7 =	12.9 +3.9 =
14.6 −2.8 =	4.5 +2.6 =	20.1 +2.9 =
15.2 −4.8 =	6.7 −1.8 =	16.1 −5.9 =
15.3 −4.4 =	5.6 +10.8 =	14.3 +4.7 =
12.5 +4.5 =	8.3 −1.6 =	9.2 −4.7 =
4.3 −2.7 =	14.4 −3.8 =	16.8 −4.9 =
2.9 +12.8 =	12.5 +4.6 =	7.4 +1.8 =
5.4 +4.6 =	2.7 +6.8 =	11.4 −0.8 =
5.9 +1.9 =	1.8 −0.9 =	1.9 +10.3 =

B组 变式口算题

1. 同学们参加献爱心捐款活动。丽丽捐了9.6元，明明捐了5.8元，丽丽比明明多捐了(　　)元。
2. 兰兰有6.1元钱，到文具店买了一本笔记本花了3.8元，兰兰还有(　　)元钱。
3. 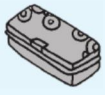   

3.3元　　5.6元　　8.5元　　6.5元

买一件最贵的和一件最便宜的一共需要(　　)元钱。

关注微信公众号“教辅资料站”获取更多学习资料

智慧广场

用时：____分____秒　错误：　个

A组 常规口算题

36 ÷3 =	54 ÷2 =	428 ÷2 =
440 ÷2 =	404 ÷2 =	212 ÷2 =
13 ×20 =	17 ×50 =	16 ×40 =
23 ×30 =	16 ×30 =	23 ×60 =
19 ×50 =	324 ÷3 =	440 ÷4 =
21 ×40 =	19 ×20 =	85 ÷5 =
48 ÷3 =	824 ÷2 =	606 ÷3 =
216 ÷2 =	660 ÷3 =	436 ÷4 =
19 ×40 =	18 ×30 =	25 ×30 =
29 ×20 =	84 ÷2 =	98 ÷7 =
336 ÷3 =	808 ÷2 =	25 ×6 =
880 ÷4 =	25 ×40 =	448 ÷4 =
33 ×50 =	37 ×20 =	24 ×30 =
25 ×4 =	56 ÷4 =	33 ×40 =
690 ÷6 =	535 ÷5 =	69 ÷3 =
32 ×50 =	15 ×40 =	880 ÷2 =

B组 变式口算题

1. 2019 年 1 月 14 日是星期一，2 月 14 日是星期(　　)。

2. 一排彩灯按红、橙、黄、绿、蓝、紫的顺序依次排列，第 13 个彩灯是(　　)色，第 132 个彩灯是(　　)色。

3. ○●●○○○●●●○●●○○○●●●○●●○○○●●●……
第 187 个球是(　　)。

4. 广场上摆了 90 盆花，按每两盆菊花后面，摆一盆月季花的顺序依次交替排列，那么，最后一盆是(　　)花。

关注微信公众号“教辅资料站”获取更多学习资料

第七单元口算能力测试

用时：___分___秒 错误：　个

A组 常规口算题

◆ 比较大小。

1.4 米◯0.8 米
6.7 元◯2.5 元
1.8 吨◯1.9 吨
2.5 千克◯3 千克
3.7 分米◯5 分米
15 千米◯15.6 千米
4.2 吨◯4.7 吨
10.5 元◯10 元
12.4 米◯14.2 米
7.5 分米◯7.7 分米
5.5 千米◯4.9 千米
6.0 元◯6 元
9.4 克◯9.5 克
12.1 分米◯12.4 分米

8.7 −3.4 =	9 −4.8 =	3.6 −1.8 =
6.7 +2.2 =	1.4 +0.3 =	0.6 +1.5 =
8.5 −7.4 =	42.3 +15.2 =	4.8 −3.1 =
3.7 +2.2 =	5 −0.7 =	4.9 −1.2 =
2.5 +4.4 =	20.4 −2 =	6.2 −2.7 =
6 +12.1 =	0.7 +0.8 =	4.9 −4.3 =
7.8 −1.5 =	4.9 +0.4 =	1.8 −1.6 =
3.9 −2.7 =	5.5 +1.5 =	4.2 −0.6 =
8.8 −5.8 =	19.2 −19.2 =	1.8 −1.4 =
5.6 +1.2 =	7.3 −1.6 =	2.6 −1.8 =

B组 变式口算题

选一选。

1. 下图中阴影部分不能表示 0.5 的是(　　)。

A. 　B. 　C. 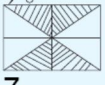　D. 

2. 有 4 条线段分别长 4 分米、3 米、0.9 米、$\frac{7}{10}$米，(　　)长的线段最长，(　　)长的线段最短。

A. 4 分米　B. 0.9 米　C. $\frac{7}{10}$米　D. 3 米

3. 爸爸用 2 条绳子接起来捆扎报纸，一条长 3.4 米，另一条长 5.6 米，接头处共用去绳子 0.3 米，接好后的绳子长(　　)米。

A. 9　B. 0.3　C. 8.4　D. 8.7

关注微信公众号“教辅资料站”获取更多学习资料

难易等级：

练习 统计表和统计图

用时：____分____秒　错误：　个

A组 常规口算题

2 ×20 =	4 ×20 =	15 ×30 =
20 ×10 =	21 ×30 =	57 ×3 =
303 ÷3 =	250 ÷5 =	45 ÷9 =
23 ×20 =	2 ×12 =	15 ×3 =
15 ×4 =	81 ÷9 =	630 ÷3 =
21 ×20 =	40 ×20 =	120 ÷4 =
270 ÷9 =	360 ÷4 =	25 ×20 =
18 ×10 =	20 ×30 =	15 ÷5 =
94 ÷2 =	46 ÷2 =	19 ×20 =
34 ×20 =	300 ÷5 =	420 ÷6 =
240 ÷8 =	24 ×20 =	16 ×20 =
14 ×20 =	396 ÷3 =	990 ÷9 =
100 ÷5 =	180 ÷9 =	260 ÷2 =
17 ×20 =	50 ×20 =	15 ×20 =
16 ×30 =	11 ×60 =	720 ÷8 =
820 ÷4 =	105 ÷5 =	210 ÷7 =

B组 变式口算题

某工厂2019年上半年开展了“节约用水，人人有责”的活动，每月节水情况如下：

月份	一	二	三	四	五	六
数量(吨)	17	20	24	28	32	30

1. 请你完成该工厂2019年上半年节约用水情况统计图。

2. 该工厂2019年上半年共节约用水(　　)吨。

某工厂2019年上半年节约用水情况统计图

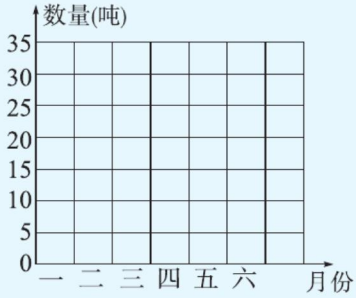

关注微信公众号“教辅资料站”获取更多学习资料

第八单元口算能力测试

用时：___分___秒 错误：　个

A组 常规口算题

27 ÷3 =	4 ×12 =	5 ×17 =
56 ÷8 =	24 ÷6 =	3 ×16 =
4 ×54 =	82 ÷2 =	45 ÷5 =
100 ÷2 =	75 ÷5 =	8 ×12 =
350 ÷7 =	280 ÷7 =	160 ÷8 =
400 ÷4 =	12 ×20 =	31 ×30 =
16 ×10 =	24 ×20 =	15 ×20 =
70 ×40 =	260 ÷2 =	140 ÷7 =
210 ÷3 =	270 ÷9 =	42 ×20 =
15 ×30 =	11 ×20 =	25 ×20 =
44 ×10 =	21 ×30 =	720 ÷9 =
770 ÷7 =	650 ÷5 =	180 ÷2 =
540 ÷6 =	350 ÷5 =	31 ×20 =
18 ×20 =	42 ×10 =	840 ÷4 =
990 ÷9 =	820 ÷2 =	550 ÷5 =
27 ×20 =	34 ×20 =	490 ÷7 =

B组 变式口算题

利民超市上周5种水果销售情况如下表。

种类	梨	桃	苹果	西瓜	葡萄
销售量(千克)	25	30	45	40	35

利民超市上周5种水果销售情况统计图

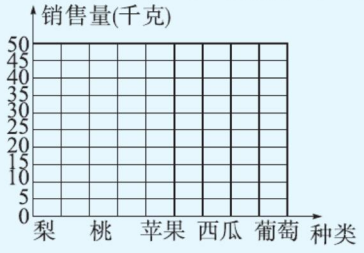

1. 根据统计表完成统计图。
2. 统计图中一个单位长度代表(　　)千克。
3. (　　)的销售量最高，卖出(　　)千克。
4. 该超市本周进货时，应多进些(　　)和(　　)。

关注微信公众号“教辅资料站”获取更多学习资料

难易等级：

练习1　两、三位数除以一位数（二）

用时：___分___秒　错误：　个

A组　常规口算题

13 ×2 =	17 ×2 =	28 ÷2 =
25 ×20 =	54 ÷9 =	21 ×10 =
50 ×2 =	81 ÷9 =	36 ÷6 =
14 ÷7 =	12 ×30 =	14 ×20 =
11 ×60 =	480 ÷6 =	240 ÷3 =
420 ÷7 =	320 ÷4 =	300 ÷6 =
24 ×30 =	16 ×20 =	12 ×40 =
23 ×30 =	630 ÷7 =	550 ÷5 =
270 ÷3 =	120 ÷6 =	180 ÷2 =
444 ÷4 =	30 ×11 =	26 ×20 =
800 ÷4 =	200 ÷5 =	27 ×10 =
17 ×30 =	21 ×40 =	400 ÷8 =
100 ÷5 =	15 ×30 =	26 ×30 =
880 ÷8 =	43 ×30 =	50 ×20 =
700 ÷7 =	750 ÷5 =	140 ÷2 =
22 ×40 =	900 ÷9 =	460 ÷2 =

B组　变式口算题

下面是某书店某个星期日儿童书籍的销售情况统计表。

书名	单价(元)	总金额(元)	数量(本)
《小故事》	8	968	
《小常识》	7	420	
《漫画书》	9	216	
《小词典》	6	906	

1. 把表格填完整。
2. 根据以上信息，可以看出(　　)最畅销。
3. 如果你带100元钱，最多可以买(　　)本书，最少可以买(　　)本书。

关注微信公众号“教辅资料站”获取更多学习资料

练习2 对 称

用时：___分___秒 错误：　个

A组 常规口算题

14 ×2 =	25 ÷5 =	35 ÷7 =
54 ×3 =	18 ÷9 =	32 ×10 =
15 ×40 =	40 ×30 =	55 ÷5 =
17 ×30 =	22 ×30 =	18 ×2 =
11 ×3 =	80 ÷8 =	300 ÷3 =
100 ÷5 =	24 ×2 =	31 ×2 =
720 ÷8 =	690 ÷3 =	210 ÷7 =
400 ÷5 =	260 ÷2 =	25 ×20 =
36 ×20 =	21 ×40 =	800 ÷8 =
540 ÷9 =	270 ÷9 =	360 ÷6 =
490 ÷7 =	280 ÷7 =	450 ÷9 =
42 ×20 =	35 ×20 =	17 ×20 =
53 ×10 =	22 ×20 =	900 ÷9 =
240 ÷6 =	62 ×20 =	15 ×30 =
840 ÷4 =	990 ÷9 =	16 ×50 =
24 ×30 =	280 ÷4 =	560 ÷8 =

B组 变式口算题

下列图案中是轴对称图形的在右面的括号里打“√”，不是轴对称图形的在括号里打“×”。


（　　）

（　　）

（　　）


（　　）

（　　）

（　　）


（　　）

（　　）

（　　）

关注微信公众号“教辅资料站”获取更多学习资料

练习3　两位数乘两位数

用时：___分___秒　错误：　个

A组　常规口算题

33 ×5 =	12 ×50 =	99 ×10 =
17 ×30 =	63 ×5 =	21 ×40 =
40 ×50 =	29 ×30 =	30 ×50 =
13 ×20 =	14 ×80 =	28 ×20 =
65 ×3 =	25 ×60 =	14 ×30 =
47 ×20 =	31 ×90 =	37 ×20 =
19 ×30 =	18 ×50 =	59 ×20 =
85 ×4 =	40 ×70 =	62 ×30 =
36 ×20 =	32 ×9 =	77 ×20 =
54 ×20 =	58 ×5 =	85 ×3 =
73 ×5 =	43 ×30 =	46 ×8 =
14 ×50 =	69 ×10 =	39 ×3 =
20 ×80 =	48 ×20 =	27 ×50 =
45 ×6 =	97 ×3 =	18 ×90 =
22 ×50 =	96 ×20 =	31 ×50 =
64 ×20 =	15 ×80 =	44 ×70 =

B组　变式口算题

1. 一本《新华字典》的售价为55元，学校买了42本，一共花了(　　)元。

2. 某服装厂平均每天做60件衣服，那么2019年2月可以做(　　)件衣服。

3. 某学校阶梯教室有23排座椅，每排有13个座位，这个教室一共有(　　)个座位。

4. 每箱饮料24瓶，这个月共卖了65箱，共卖了(　　)瓶。

5. 小红每天坚持写23个毛笔字，她7月份一共写了(　　)个毛笔字。

关注微信公众号“教辅资料站”获取更多学习资料

练习4 解决问题

用时：___分___秒 错误：　个

A组 常规口算题

35 ÷7 =	24 ÷4 =	15 ×5 =
21 ×2 =	54 ÷9 =	13 ×2 =
42 ÷6 =	18 ×4 =	88 ÷8 =
4 ×18 =	400 ÷4 =	600 ÷3 =
12 ×20 =	24 ×10 =	720 ÷8 =
250 ÷5 =	17 ×20 =	31 ×30 =
13 ×30 =	270 ÷9 =	700 ÷7 =
280 ÷4 =	490 ÷7 =	18 ×20 =
33 ×20 =	41 ×20 =	51 ×10 =
810 ÷9 =	120 ÷2 =	320 ÷4 =
180 ÷9 =	24 ×20 =	15 ×20 =
14 ×20 =	23 ×30 =	720 ÷9 =
350 ÷5 =	800 ÷2 =	240 ÷6 =
25 ×30 =	11 ×80 =	416 ÷8 =
33 ×40 =	41 ×10 =	900 ÷9 =

B组 变式口算题

1. 农夫们在果园里摘了51筐苹果，每筐15千克，如果把这些苹果装入纸箱中，每箱装9千克，一共需要(　　)个纸箱。

2. 一列火车2小时行驶180千米，照这样的速度计算，8小时可以行驶(　　)千米。

3. 学校买了5箱香皂，每箱18块，每块12元，买这些香皂一共用了(　　)元。

4. 工厂有186根木材，要求分3次运完，每次2辆车，平均每次每辆车运(　　)根。

5. 某学校有21个班，每班有学生40人，全校学生一起去看电影，电影院有900个座位，座位(　　)坐。(填“够”或“不够”)

关注微信公众号“教辅资料站”获取更多学习资料

练习5　长方形和正方形的面积

用时：___分___秒　错误：　个

A组　常规口算题

3米＝(　　)分米

4平方分米＝(　　)平方厘米

6分米＝(　　)厘米

20毫米＝(　　)厘米

300平方分米＝(　　)平方米

7平方米＝(　　)平方分米

2100平方厘米＝(　　)平方分米

4分米＝(　　)米

2米＝(　　)厘米

8平方分米＝(　　)平方厘米

(　　)平方分米＝9平方米

1米7分米＝(　　)米

(　　)平方厘米＝11平方分米

(　　)平方米＝500平方分米

30厘米＝(　　)分米

2300平方分米＝(　　)平方米

◆ 求长方形、正方形的面积。

长＝12米，宽＝5米，
面积＝(　　)平方米

长＝3分米，宽＝2厘米，
面积＝(　　)平方厘米

长＝11厘米，宽＝1分米，
面积＝(　　)平方厘米

长＝6米，宽＝5分米，
面积＝(　　)平方分米

长＝13厘米，宽＝10厘米，
面积＝(　　)平方厘米

边长＝11米，面积＝(　　)平方米

边长＝30分米，面积＝(　　)平方分米

边长＝8厘米，面积＝(　　)平方厘米

边长＝40米，面积＝(　　)平方米

边长＝9分米，面积＝(　　)平方分米

B组　变式口算题

1. 王老师家的客厅地面长6米，宽3米，如果用边长为3分米的正方形地砖铺客厅地面，一共要用(　　)块。
2. 从一张长7厘米，宽5厘米的长方形纸上剪下一个最大的正方形，剩余部分的面积是(　　)平方厘米。
3. 如图，有一块长方形菜地长30米，宽20米，菜地中间留了宽1米的小路，小路的面积是(　　)平方米。

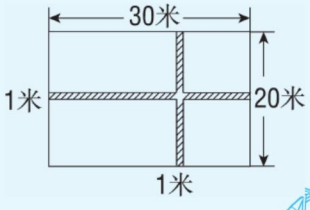

关注微信公众号“教辅资料站”获取更多学习资料

练习6 年、月、日

用时：___分___秒 错误：　个

A组 常规口算题

12 ×6 =	12 ×8 =	640 ÷8 =
450 ÷9 =	828 ÷2 =	856 ÷8 =
663 ÷3 =	18 ×50 =	92 ×40 =
24 ×20 =	72 ÷3 =	240 ÷2 =
84 ÷2 =	31 ×7 =	22 ×4 =
42 ×2 =	21 ×6 =	83 ×3 =
455 ÷5 =	360 ÷4 =	32 ×4 =
35 ×4 =	42 ×3 =	105 ÷7 =
505 ÷5 =	34 ×2 =	12 ×2 =
13 ×5 =	728 ÷8 =	5 ×21 =
27 ×30 =	440 ÷8 =	939 ÷3 =
126 ÷6 =	15 ×6 =	246 ÷2 =
16 ×7 =	5 ×71 =	32 ×6 =
305 ÷5 =	520 ÷5 =	0 ×98 =
45 ×2 =	721 ÷7 =	7 ×41 =

B组 变式口算题

选一选。

1. 下面年份中，(　　)年2月有29天。

A. 1994　　B. 2016　　C. 1997　　D. 1800

2. 下面月份中，(　　)有4星期零3天。

A. 1月　　B. 2月　　C. 4月　　D. 6月

3. 涵涵参加了为期15天的夏令营，8月2日进行闭营汇演，夏令营从(　　)开始。

A. 7月17日　　B. 7月18日　　C. 8月17日　　D. 7月19日

4. 小小星期天看了一场足球比赛，上、下半场各45分钟，中间休息15分钟，比赛结束时间是下午1:30，比赛开始时间是(　　)。

A. 12:05　　B. 12:15　　C. 11:55　　D. 11:45

关注微信公众号“教辅资料站”获取更多学习资料

练习7　小数的初步认识

用时：____分____秒　错误：　个

A组　常规口算题

4元6角=(　)元
7分米=(　)米
1米4分米=(　)米
5角=(　)元
2元1角=(　)元
3米3分米=(　)米
12分米=(　)米
8角=(　)元
3元4角=(　)元
12元3角=(　)元
7米7分米=(　)米
1分米=(　)米
3角=(　)元
9分米=(　)米
2角=(　)元
15角=(　)元

◆ 比较大小。

1.2元◯1.5元
3.7米◯4米
2.8吨◯1.9吨
5.4千克◯4.5千克
7.9克◯8.8克
12.4千米◯10.7千米
8.5元◯7.8元
3.9米◯4.1米
5.2米◯4.7米
3.9元◯3.8元
15吨◯24.9吨
3.7千克◯2.7千克
0.6克◯0.1克
8.8元◯9元
15.3吨◯13吨

8.5−2.1=
2.4+3.4=
0.9+0.7=
3.6−1.2=
5−0.7=
8.4−1.7=
13+0.7=
3.2+1.9=
4.2+0.9=
7.4−1.5=
8.2+1.8=
4.9−1.1=
12.4−1.2=
20.4−2.4=
9.3−1.7=
8.4+1.5=

B组　变式口算题

1. 我是小法官。

(1)6.51读作六点五十一。(　)　(2)7分米=$\frac{7}{10}$米=0.7米。(　)

(3)6元比5元1角多0.9元。(　)　(4)0.8米>15分米。(　)

2. 小新从家到学校要走1.2千米，今天早晨他走了0.3千米后又回家取了一本书，他今天上学一共走了(　　)千米，这样他今天早晨比平时上学多走了(　　)千米。

3. 小明有一条8.3米长的绳子，第一次用去1.5米，第二次用去3.2米，这条绳子比原来短了(　　)米。

关注微信公众号“教辅资料站”获取更多学习资料

练习8 数据的收集与整理

用时：___分___秒 错误：　个

A组 常规口算题

23 ×3 =	450 ÷3 =	13 ×60 =
720 ÷8 =	12 ×40 =	960 ÷8 =
114 ÷2 =	126 ÷3 =	24 ×5 =
31 ×40 =	23 ×2 =	25 ×4 =
328 ÷4 =	37 ×2 =	363 ÷3 =
500 ÷4 =	279 ÷3 =	10 ×7 =
91 ÷7 =	38 ÷2 =	93 ÷3 =
52 ×3 =	19 ×40 =	43 ×20 =
321 ÷3 =	804 ÷4 =	420 ÷3 =
408 ÷8 =	12 ×4 =	42 ×2 =
630 ÷6 =	918 ÷9 =	32 ×50 =
73 ×30 =	53 ×30 =	810 ÷9 =
840 ÷6 =	213 ÷3 =	17 ×30 =
19 ×30 =	11 ×70 =	108 ÷2 =
100 ÷4 =	140 ÷5 =	99 ÷3 =
72 ÷4 =	639 ÷9 =	680 ÷4 =

B组 变式口算题

经过学校门前车辆(20 分钟内)情况如下表。

车辆种类	自行车	公交车	小轿车	面包车
数量(辆)	24	12	36	4

经过学校门前车辆(20 分钟内)情况统计图

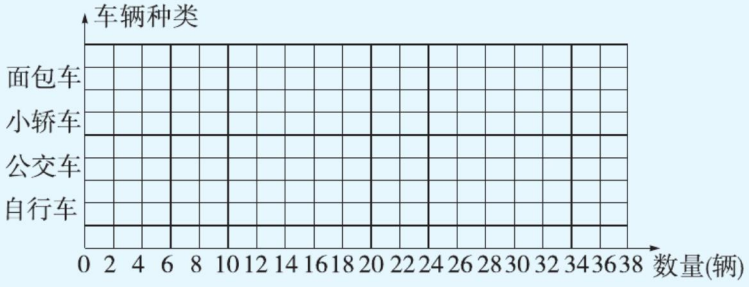

1. 把上面的统计图补充完整。

2. 经过学校门前的车辆,(　　)的数量最多,(　　)的数量最少。

关注微信公众号“教辅资料站”获取更多学习资料

口算能力期末综合测评（一）

用时：___分___秒　错误：　个

0.4 +0.3 =	0.5 +1.1 =	20 ×10 =
11 ×10 =	4.3 −2.2 =	300 ÷3 =
240 ÷4 =	12 ×20 =	13 ×30 =
250 ÷5 =	360 ÷6 =	270 ÷9 =
14 ×20 =	16 ×20 =	21 ×30 =
3.4 +2.5 =	6.7 −4.3 =	4.5 +2.3 =
15 ×20 =	23 ×30 =	300 ÷5 =
270 ÷3 =	210 ÷7 =	400 ÷5 =
280 ÷4 =	23 ×20 =	35 ×20 =
100 ÷2 =	490 ÷7 =	640 ÷8 =
560 ÷7 =	540 ÷9 =	25 ×20 =
21 ×40 =	45 ×20 =	44 ×10 =
6.9 −2.8 =	4.6 +2.3 =	500 ÷5 =
14 ×30 =	22 ×30 =	650 ÷5 =
505 ÷5 =	24 ×30 =	32 ×30 =
16 ×50 =	18 ×30 =	707 ÷7 =
999 ÷9 =	244 ÷4 =	19.5 −8.9 =
6.4 +2.8 =	5.4 +1.8 =	7.6 −1.9 =
212 ÷2 =	312 ÷3 =	27 ×20 =
43 ×20 =	19.8 −2.9 =	24.4 −3.5 =
7.6 +1.8 =	5.4 +10.6 =	14.3 −2.9 =
315 ÷3 =	208 ÷4 =	26 ×30 =
15.2 +2.9 =	44 ×20 =	47 ×20 =

关注微信公众号“教辅资料站”获取更多学习资料

口算能力期末综合测评（二）

用时：___分___秒 错误：　个

1.1 +0.2 =	10 ×30 =	40 ×20 =
1.6 −0.4 =	400 ÷4 =	30 ×30 =
12 ×20 =	12 ×30 =	11 ×40 =
31 ×20 =	15 ×10 =	21 ×20 =
13 ×20 =	14 ×20 =	500 ÷5 =
270 ÷9 =	210 ÷3 =	450 ÷9 =
540 ÷6 =	280 ÷7 =	12 ×40 =
6.6 +3.3 =	4.8 −2.6 =	5.2 +2.7 =
22 ×30 =	24 ×20 =	31 ×10 =
41 ×20 =	15 ×20 =	460 ÷2 =
202 ÷2 =	810 ÷9 =	700 ÷7 =
650 ÷5 =	400 ÷8 =	12.5 +3.4 =
6.9 −4.2 =	4.7 −2.3 =	16.6 −4.5 =
21.4 +4.3 =	42 ×20 =	15 ×60 =
14 ×40 =	150 ÷3 =	206 ÷2 =
630 ÷9 =	550 ÷5 =	13.4 −2.8 =
7.6 +1.7 =	15.2 −4.6 =	91 ×20 =
44 ×30 =	360 ÷6 =	2.5 +4.7 =
6.6 −2.8 =	34 ×20 =	52 ×20 =
14.2 −2.5 =	5.6 +2.8 =	770 ÷7 =
220 ÷2 =	888 ÷2 =	14.2 −2.4 =
2.9 +4.2 =	54 ×20 =	909 ÷3 =
969 ÷3 =	12.7 −1.8 =	615 ÷3 =

关注微信公众号“教辅资料站”获取更多学习资料

口算能力期末综合测评（三）

用时：___分___秒　错误：　个

11 ×20 =	400 ÷5 =	200 ÷4 =
2.3 +3.1 =	4.5 −1.3 =	6.6 +2.3 =
11 ×30 =	33 ×20 =	800 ÷8 =
260 ÷2 =	180 ÷9 =	13 ×40 =
13 ×20 =	31 ×30 =	62 ×20 =
3.9 −2.7 =	4.4 +2.3 =	6.5 +2.4 =
8.8 −4.4 =	180 ÷3 =	360 ÷9 =
23 ×30 =	23 ×20 =	16 ×20 =
300 ÷6 =	490 ÷7 =	560 ÷8 =
202 ÷2 =	4.8 −2.7 =	5.2 +3.4 =
40 ×21 =	43 ×20 =	12 ×50 =
24 ×20 =	990 ÷9 =	303 ÷3 =
222 ÷2 =	8.4 −1.7 =	4.6 +2.9 =
11.4 −0.7 =	8.5 −4.8 =	51 ×20 =
44 ×20 =	25 ×20 =	707 ÷7 =
350 ÷7 =	106 ÷2 =	16 ×50 =
18 ×30 =	8.9 +0.2 =	11.4 +4.9 =
828 ÷4 =	214 ÷2 =	19 ×30 =
2.7 +4.6 =	18.4 −3.6 =	414 ÷2 =
690 ÷3 =	12.2 −1.5 =	4.7 +11.6 =
10.5 +20.9 =	18.5 −7.6 =	680 ÷2 =
11 ×11 =	960 ÷3 =	12 ×12 =
14 ×14 =	7.8 +11.4 =	12.9 +3.4 =

关注微信公众号“教辅资料站”获取更多学习资料

口算能力期末综合测评（四）

用时：___分___秒 错误：　个

◆ 求长方形、正方形的面积或周长。

长=20米，宽=11米，

面积=(　　)平方米，周长=(　　)米

长=10厘米，宽=8厘米，

面积=(　　)平方厘米

长=22分米，宽=20分米，

面积=(　　)平方分米

长=34米，宽=10米，

面积=(　　)平方米，周长=(　　)米

长=25米，宽=4米，

面积=(　　)平方米，周长=(　　)米

长=40厘米，宽=20厘米，

面积=(　　)平方厘米，周长=(　　)厘米

边长=80厘米，面积=(　　)平方厘米

边长=22厘米，周长=(　　)厘米

边长=30厘米，面积=(　　)平方厘米

边长=7米，面积=(　　)平方米

边长=25米，面积=(　　)平方米

边长=13分米，面积=(　　)平方分米

边长=80米，周长=(　　)米

边长=6米，面积=(　　)平方米

边长=20分米，面积=(　　)平方分米

边长=70厘米，面积=(　　)平方厘米

边长=14分米，周长=(　　)分米

边长=15米，面积=(　　)平方米

15平方米=(　　)平方分米

20平方分米=(　　)平方厘米

200平方分米=(　　)平方米

2年=(　　)个月

9平方米=(　　)平方分米

800平方厘米=(　　)平方分米

300分=(　　)时

300平方厘米=(　　)平方分米

11平方米=(　　)平方分米

28平方米=(　　)平方分米

39平方分米=(　　)平方厘米

97平方分米=(　　)平方厘米

180秒=(　　)分

5600平方分米=(　　)平方米

10平方米=(　　)平方分米

210平方米=(　　)平方分米

1时=(　　)秒

77平方米=(　　)平方分米

900平方厘米=(　　)平方分米

2500平方厘米=(　　)平方分米

5分=(　　)秒

99平方米=(　　)平方分米

3600平方厘米=(　　)平方分米

9600平方厘米=(　　)平方分米

关注微信公众号“教辅资料站”获取更多学习资料

参考答案

第一单元

练习1（第1页）

A组

40	13	40
50	90	13
12	11	70
30	6	30
32	60	16
30	70	80
40	60	80
70	40	110
60	21	70
9	11	11
8	14	24
32	90	23
170	22	70
40	40	33
21	50	60
12	30	60

B组

1. 30　20
2. 240　30
3. 25　20　科技

练习2（第2页）

A组

130	91	19
17	24	227
81	110	230
61	26	61
31	51	91
93	91	80
15	51	63
81	81	63
90	41	210
123	83	13
44	12	12
62	50	13
50	23	19
42	11	80
71	23	34
11	90	130

B组

1. 81　94　95　66
2. 52

练习3（第3页）

A组

113	13	243
21	70	224
11	222	12
90	12	119
74	17	56
132	16	16
14	212	33
330	16	36
110	220	233
214	70	39
190	124	51
50	31	70
19	60	212
111	82	81
21	13	60
90	121	70

B组

1. (1) ×　(2) ×
2. 6　5
3. 112　56

练习4（第4页）

A组

83	24	13
31	41	32
19	46	34
21	30	72
19	12	29
14	14	24
37	61	81
82	41	11
91	92	31
23	6	19
61	91	22
110	33	23
70	72	43
71	65	71
62	51	14
41	22	26

B组

1. 6　131
2. 41　2
3. 91　1
4. 114

练习5（第5页）

A组

401	209	30
103	81	204
402	105	104
201	109	106
108	101	109
201	202	106
309	32	203
208	0	107
19	16	107
203	71	21
104	204	409
103	104	307
18	408	307
106	41	27
90	208	18
123	11	60

B组

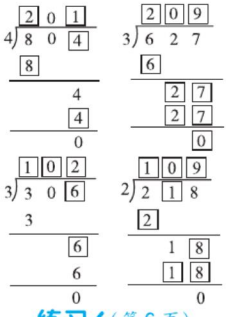

练习6（第6页）

A组

70	210	230
110	170	240
50……7	12	220
14	40……4	30
130	210	340
120	130	70……1
60……1	410	490
150	47	140
130	17	50
18	140	70
13	310	130
210……1	110	170
40……4	120	290
150	60……7	90……3
190	212……1	25
42	120	17

B组

1. (1) 80　210
   (2) 130
2. 40　41　3. 45

练习7（第7页）

A组

204	40……7	130
160	105	140
201	410	105
12	104	208
105	50……5	103
110	190……1	430
106	201	209
310……2	270	50……3
206	103	107
50	9	150
102	104	104
130……2	150	131
304	101	101
110	60……4	120
116……2	180	104
130……2	9	105

B组

1. 21　2. 105
3. 40　4. 216
5. 41　101　小强

第一单元 口算能力测试（第8页）

A组

14	12	50
320	107	30……3
14	105	15
190	12	105
102	106	206
203	103	50
60	11	101
15	201	23
60	91	104
14	106	13
108	13	40……6
207	106	34
11	212	130
107	16	170
130	218	207

B组

1. 294　49　245　35
   210　48　288　96
   16　144
2. 170　3. 94

第二单元

练习（第9页）

A组

50	26	70
121	32	44
80	201	23
104	105	204
120	190	134

请沿此虚线裁剪下使用

关注微信公众号“教辅资料站”获取更多学习资料

80 410 105
16 13 105
30……3 30 103
14 100 110
13 24 102
301 106 206
37 309 7
40 140 90
24 30……1 140
12 80 22
101 101 13

B组

√ √ × × ×
√ × √

第二单元 口算能力测试

（第10页）

A组

17 61 >
43 62 >
30 102 <
71 70 <
104 330 <
31 140 >
202 140 >
70……1 61 <
110 27 <
104 47 <
150 42 >
300 0 <
103 31 <
53……2 70 >
50 160
31 19

B组

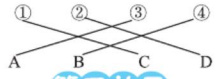

第三单元

练习1（第11页）

A组

99 690 600
760 640 790
800 620 520
68 910 510
480 880 600
920 960 880
99 430 960
810 740 74
840 560 260
850 840 2700
390 1800 930
75 84 920
2000 660 640
280 420 5600
1200 93 213
72 54 44

B组

1. 960 750 1200
2. 3500 3. 1250

练习2（第12页）

A组

128 132 550
950 740 780
156 172 880
690 870 920
660 420 420
680 610 440
128 156 860
1200 720 96
360 630 630
940 680 840
192 1200 440
440 290 154
2300 600 102
69 108 3500
1800 175 1600
164 2400 52

B组

88×10 33×20 12×40 11×60 22×20

480 440 880 660

练习3（第13页）

A组

480 520 720
93 140 1050
170 146 680
100 840 68
640 990 48
69 126 420
720 130 520
112 77 80
380 870 780
159 1060 760
1240 141 1050
75 1530 660
144 78 960
820 72 153
570 225 2160
144 1220 76

B组

1.

$$\begin{array}{r} 18 \\ \times\ 14 \\ \hline 72 \\ 18 \\ \hline 252 \end{array}$$

72……工作（4）小时加工（72）个零件
18……工作（10）小时加工（180）个零件
252……工作（14）小时加工（252）个零件

2. 483

练习4（第14页）

A组

210 54 >
720 700 >
126 3600 =
3200 128 >
660 92 <
104 1410 >
740 5600 <
720 64 >
1800 26 >
120 114 >
780 480 <
2500 156 >
960 1340
87 2400
950 640

B组

1.

$$\begin{array}{r} 23 \\ \times\ 13 \\ \hline 69 \\ 23 \\ \hline 299 \end{array} \qquad \begin{array}{r} 42 \\ \times\ 12 \\ \hline 84 \\ 42 \\ \hline 504 \end{array}$$

$$\begin{array}{r} 21 \\ \times\ 13 \\ \hline 63 \\ 21 \\ \hline 273 \end{array} \qquad \begin{array}{r} 12 \\ \times\ 12 \\ \hline 24 \\ 12 \\ \hline 144 \end{array}$$

2. 23 690

练习5（第15页）

A组

240 2130 930
800 1500 460
3000 900 780
900 2000 300
870 3660 910
640 2400 135
760 2480 1640
2160 190 4200
81 770 2800
860 1050 1680
2400 750 1260
1000 360 360
840 240 480
4080 680 1440
690 105 102
4500 1260 104

B组

352 408 529 903

练习6（第16页）

A组

68 1260 860
880 750 510
700 840 78
760 680 920
81 188 85
840 720 166
900 220 940
132 1040 320
800 78 980
740 870 390
700 660 630
76 960 100
273 1480 720
1560 190 2550
520 142 720
550 300 540

B组

$$\begin{array}{r} 63 \\ \times\ 25 \\ \hline 315 \\ 126 \\ \hline 1575 \end{array} \qquad \begin{array}{r} 36 \\ \times\ 32 \\ \hline 72 \\ 108 \\ \hline 1152 \end{array}$$

$$\begin{array}{r} 31 \\ \times\ 48 \\ \hline 248 \\ 124 \\ \hline 1488 \end{array}$$

练习7（第17页）

A组

1400 900 130
70 57 300
690 960 520
96 368 81
116 720 88
720 1550 960
950 86 135
900 219 440
540 1240 570
276 750 96
940 178 1860
780 850 380
640 600 660
840 112 92
960 980 108
810 840 1020

请沿此虚线裁剪下使用

关注微信公众号“教辅资料站”获取更多学习资料

B组

1. 600　2. 3　3. 三　四
4. 225　5. 200　8
6. 不能

练习8（第18页）

A组

420	570	2700
400	180	560
720	320	1040
340	2040	390
126	1290	650
560	620	880
1230	900	1840
960	940	126
2800	148	2400
950	810	920
51	480	2130
450	420	860
860	840	900
720	960	700
426	1560	1230
650	720	75

B组

1470　3456

练习9（第19页）

A组

660	110	780
880	1260	900
550	850	920
750	4000	500
680	90	360
129	1280	800
70	96	2800
1800	2100	1600
1020	840	3550
1500	900	1240
1200	640	1000
960	990	1350
690	1440	600
96	135	2100
108	114	292
1760	4800	78

B组

148　39　1350
40　149　189

练习10（第20页）

A组

360	162	188
225	200	198
385	420	117
200	162	196
268	76	1800
1050	3850	360
1600	4000	1800
600	960	1650
540	690	700
1500	100	1600
640	88	217
84	2000	660
820	800	720
1860	600	1280
2100	108	51
153	1800	252

B组

696　598　525　1248

第三单元 口算能力测试

（第21页）

A组

96	70	56
450	84	126
77	102	175
120	900	1260
300	80	140
1200	700	1700
900	90	110
60	750	1400
340	810	420
850	75	480
6400	51	42
60	640	130
99	138	860
2400	96	1860
220	4900	3000
96	147	960

B组

1.
$$\begin{array}{r} 49 \\ \times\ 23 \\ \hline 147 \\ 98 \\ \hline 1127 \end{array} \qquad \begin{array}{r} 94 \\ \times\ 25 \\ \hline 470 \\ 188 \\ \hline 2350 \end{array}$$

2. 4080

第四单元

练习1（第22页）

A组

210	427	630
1500	36	1600
60	324	3200
1260	176	3600
630	260	1080
3000	693	600
600	2000	2250
1800	630	1500
210	252	2200
1200	300	800
1700	1400	209
4500	4400	960
840	238	380
1750	3600	1200
90	132	156
162	64	150

B组

1. 400　3600　2. 3600
3. 1280

练习2（第23页）

A组

9	150	130
70	25	104
103	123	105
83	61	60
70	105	47
90	210	17
129	22	72
71	98	213
104	28	31
320	166	213
82	19	91
68	50	51
103	11	76
120	109	90
4200	203	104
500	270	403

B组

1. 60　12　2. 111　37
3. 10　4. 17

练习3（第24页）

A组

400	1500	1000
5400	62	30
82	780	2400
1230	31	70
1820	1040	72
90	90	42
1280	590	80
80	103	103
41	90	180
770	205	630
240	51	34
82	560	690
168	55	4800
39	1800	152
284	25	650
600	990	2640

B组

1. 640　2. 260　3. 144
4. 480　5. 3240

练习4（第25页）

A组

5490	720	52
350	140	800
52	330	1640
2840	141	62
1400	460	550
90	80	405
140	81	12
57	360	80
92	183	147
60	101	31
1260	39	1180
880	1050	45
101	73	126
2480	5400	4000
360	13	80
50	6400	81

B组

1. 24　2. 12　3. 128

练习5（第26页）

A组

75	360	52
750	150	1000
78	930	1560
1440	880	136
280	160	800
110	202	61
70	72	490
77	106	320
56	160	490
170	64	260
102	2700	950
1600	72	104
52	750	1500
6300	1800	19
3500	70	380
16	1830	104

B组

1. A　2. B　3. B

请沿此虚线裁剪下使用

关注微信公众号“教辅资料站”获取更多学习资料

练习6（第27页）

A组

52	154	271
3570	520	44
39	245	800
640	6300	240
1000	204	4500
130	96	31
4800	130	48
101	360	560
14	75	81
450	230	300
33	102	630
540	4000	60
5400	840	2700
560	1280	96
81	11	180
30	5490	104

B组

1. 504　1978　2860

2. 128

第四单元 口算能力测试

（第28页）

A组

3200	1440	31
41	61	1260
1200	72	52
140	690	860
2080	40	84
60	220	144
75	31	32
101	880	28
3050	2190	240
920	260	40
72	91	94
321	11	2730
155	780	109
70	61	6300
14	990	41
420	840	111

B组

1. 960　　2. 5

3. 1080　　4. 18

第五单元

练习1（第29页）

A组

200	140	13
44	14	120
41	800	32
49	540	131
380	344	24
900	330	198
54	54	1200
81	1500	11
14	46	540
180	24	98
61	132	71
630	860	880
11	186	56
92	104	2400
140	231	372
25	112	37

B组

1. 封面　表面的大小

2. 8　4　10　4　10　4

练习2（第30页）

A组

410	33	平方分米
111	86	平方米
144	3000	平方厘米
1000	740	平方分米
18	61	平方米
32	56	米
110	33	厘米
82	231	分米
95	64	平方厘米
14	490	平方厘米
300	85	米
1200	2800	米
96	59	毫米
17	92	平方分米
23	71	平方米
46	96	分米

B组

9　5　10

练习3（第31页）

A组

215	27	
37	1600	96
1740	780	35
3600	38	196
36	23	169
23	44	9
220	264	8
65	97	225
273	2000	64
310	29	361
12	1840	8
66	110	
42	212	
255	43	
4800	63	
150	427	

B组

300　196　288

练习4（第32页）

A组

175	720	512
30	155	3
1200	1120	228
1020	94	4900
15	22	36
64	22	9
58	219	1600
1680	150	11
31	106	60
19	131	18
14	6400	
1760	690	
121	180	
79	4200	
111	46	
45	57	

B组

1. 长×宽　边长×边长

2. 14　　3. 16

4. 22500　　5. 968

练习5（第33页）

A组

300	100
600	4
3	6
400	700
3	800
2	900
3000	11
700	4000
6	1500
100	1
2	3700
7	5
300	2100
1200	900
5000	800
1400	3400

B组

1. 100　1

2. 256　20　400　4

3. 4

练习6（第34页）

A组

45	6
450	100
24	1000
70	200
20	17
480	43
160	9
300	300
36	6
121	800
625	2200
900	35
2500	10
529	8
9	2
	3000

B组

1. 25　　2. 48

3. 80　　4. 3136

练习7（第35页）

A组

96	49
36	100
54	96
270	44
1500	81
52	64
24	400
117	84
	121
	120
	68
	1600
	200
	25
	24

请沿此虚线裁剪下使用

关注微信公众号“教辅资料站”获取更多学习资料

B组

图形	长	宽	周长	面积
长方形	10分米	5分米	30分米	50平方分米
	12厘米	8厘米	40厘米	96平方厘米
	10米	5米	30米	50平方米
正方形	边长	6米	24米	36平方米
		10厘米	40厘米	100平方厘米
		8分米	32分米	64平方分米

练习8（第36页）

A组

2000 34 25 20
124 2100 70
24 138 120
870 12 81 36
77 960 121 44
21 600 2250
190 140 70
75 200 16
120 15
55 112
4500 1800
235 74
616 11
15 700
104 31
55 176

B组

1. C 2. C
3. 2500 200

练习9（第37页）

A组

5 68 24
22 300 80
154 132 81
1060 23 80
4000 25 120 800
18 140 32
126 400 16
34 132 16
301 43 50 126
110 450 200
28 28
37 88
240 370
225 255
740 25

B组

1. 28 45
2. 9 3. 48 32 16
50 13 312 36
24 5 25

智慧广场（第38页）

A组

13 13 111
101 120 103
160 720 15
840 12……1 110
300 600 100
510 121 205
460 1000 920
26 106 11……4
210 1080 106
1280 22 750
103 202 110
321 230 1680
990 1100 216
102 690 106
228 13 43
560 1400 1470

B组

84 $\xrightarrow{\times 2}$ 2 $\xrightarrow{+10}$ $\xrightarrow{-10}$
(32+10)×2

第五单元 口算能力测试

（第39页）

A组

40 20
400 154
7 54
5 80
6 4
10 24
12 64
9 840
14 1650
20 77
40 300
800
10
450
60
7100

B组

1. × 2. √ 3. ×
4. × 5. × 6. ×

第六单元

练习1（第40页）

A组

12 16:45 下午3:40
40 10:15 上午9:25
240 2:30 下午2:15
110 12:05 晚上8:20
440 20:00 半夜12时（或半夜0时）
36 17:30 晚上11:14
84 24时（或0时） 晚上7:00
840 7:20 晚上8:00
61 9:15 早晨7:15
31 12:30 上午10:18
660 15:20 上午9:08
23 16:05 中午12:12
27 21:20 下午2:07
600 22:08 下午4:24
700 8:50 下午5:50
37

B组

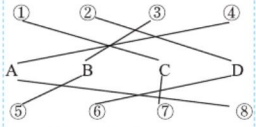

练习2（第41页）

A组

30 15:00 上午9:30
11 5:30 下午5:30
360 12:10 中午12:00
100 20:00 下午1:30
96 1:00 上午10:00
17 13:00 上午8:00
31 9:00 凌晨1:00
320 16:30 凌晨12:30
2000 10:30 早上5:00
1500 10:50 上午11:00
15 22:50 下午2:30
80 12:00 下午3:40
760 14:00 下午4:00
111 21:00 晚上8:00
106 9:50 晚上10:00
810

B组

1. 7 2. 4
3. 7 4. 超市 4

练习3（第42页）

A组

88 140 闰年
200 740 闰年
70 51 平年
840 990 闰年
750 2000 闰年
33 78 平年
104 70 闰年
51 54 平年
109 36 平年
80 2350 平年
98 39 闰年
155 186 闰年
860 101 闰年
51 126 闰年
88 52 闰年
4620 270 平年

B组

1. (1)× (2)× (3)×
2. 11 2007
3. 1949 70

练习4（第43页）

A组

90 60 80
26 81 22
69 18 130
720 680 504
51 400 54
13 99 90
61 46 13
1590 129 90
13 104 1080
96 900 321
960 9 105

请沿此虚线裁剪下使用

关注微信公众号“教辅资料站”获取更多学习资料

90	114	71
102	104	76
24	308	82
156	68	103
109	434	200

B组

1.9	2.28	3.7	5
4.2	5.51		

第六单元 口算能力测试

（第44页）

A组

70	470	123
162	51	182
600	71	172
28	600	105
106	31	64
450	108	90
11	640	81
76	60	87
402	60	740
6300	15	110
78	4	22
71	81	126
123	124	190
180	32	129
26	1530	16

B组

1. A　2. B
3. B　4. C

第七单元

练习1（第45页）

A组

70	三点四五	1.3
1880	二点六零	10.5
14	三十六点六	3.6
124	一点二	5.2
78	零点五	1.7
107	七点一三	0.6
21	五点三一	15.2
68	零点六四	13.1
81	十二点七	6.0
71	一点五五	7.2
1290	八点三	8.3
85	一点六七	5.9
68	十五点七	9.1
70	零点九	20.3
23	十八点二	16.0
13	一点八二	10.9

B组

1. 1.36　2. 8844.43
3. 0.18　4. 2.0
5. 200.16

练习2（第46页）

A组

36	八点二	3.24
2250	九点七	1.2
220	零点四五	200.6
528	三十一点二	1.58
71	八点零六	5.24
162	十二点四	10.1
520	八十点一	50.3
16	五点七四	7.5
306	六点三	8.6
85	二点七零	9.24
23	零点三	11.2
2870	二十五点五	5.0
12	三点零五	9.9
27	十四点一	10.10
100	零点四一	0.5

B组

1. $\frac{4}{10}$　0.4　7.2
2. $\frac{7}{10}$　0.7　9.6
3. $\frac{1}{10}$　0.1　$\frac{4}{10}$　0.4　$\frac{7}{10}$　0.7
4. 2.6

练习3（第47页）

A组

14	45	<
690	88	>
120	17	>
840	100	<
49	1860	<
150	105	<
91	13	>
64	70	<
170	85	<
203	81	>
102	51	<
240	212	<
96	330	<
37	76	<
106	55	>
780	104	

B组

1. (1)5.8千克>4.7千克>3.5千克>3.1千克
(2)23元>13.5元>12.5元>10.9元
2.

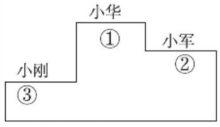

练习4（第48页）

A组

0.8	0.1	2.2
1.2	2.2	2.3
6.8	4.4	4.6
3.1	4.5	4.8
11.4	2.2	1.1
9.9	12.7	15.9
13.9	0.5	17.6
9.8	2.1	16.9
7.3	2.1	1.2
8.6	5.9	8.3
4.7	8	0.9
9.8	4.1	5.3
8.1	5.9	1.2
11	8.1	1.5
44	4.7	6.1
6.6	19.7	7.3

B组

1. (1)×　(2)√　(3)×　(4)×
2. 14.9　5.1

练习5（第49页）

A组

3	3	7
6	6.1	9.2
7.9	1.7	7.1
3.1	8	5.9
13	6.3	9.2
5.9	5.2	5.2
10.6	3.7	9.4
4.4	5.1	2.9
6.9	2.8	7.6
18	9.4	7.8
8.4	1.6	1.7
11.9	1.9	7.7
2.9	8.4	8.3
13.1	15.1	12.5
17.9	0.6	10.1
8.4	16.2	0.8

B组

1.0.9	1.1	6.9	7.4
2.15.9	3.5.6		
4.1.4	0.6	4	

练习6（第50页）

A组

2	2.1	0.9
5	4.2	6.1
1.9	7.4	0.9
5.4	9.4	5.7
7.4	16.2	11.5
2.6	9.6	10.4
12.1	10.7	16
6.3	6.4	16.8
11.8	7.1	23
10.4	4.9	10.2
10.9	16.4	19
17	6.7	4.5
1.6	10.6	11.9
15.7	17.1	9.2
10	9.5	10.6
7.8	0.9	12.2

B组

1. 3.8　2. 2.3
3. 11.8

智慧广场（第51页）

A组

12	27	214
220	202	106
260	850	640
690	480	1380
950	108	110
840	380	17
16	412	202
108	220	109
760	540	750
580	42	14
112	404	150
220	1000	112
1650	740	720
100	14	1320
115	107	23
1600	600	440

B组

1. 四　2. 红　紫　3. ●
4. 月季

请沿此虚线裁剪下使用

关注微信公众号“教辅资料站”获取更多学习资料

第七单元 口算能力测试

（第 52 页）

A 组

>	5.3	18.1
>	4.2	1.5
<	1.8	0.6
<	8.9	6.3
<	1.7	5.3
<	2.1	0.2
<	1.1	1.2
>	57.5	7
<	1.7	3.6
<	5.9	3
>	4.3	0
=	3.7	0.4
<	6.9	6.8
<	18.4	5.7
	3.5	0.8

B 组

1. D　2. D　A　3. D

第八单元 练习（第 53 页）

A 组

40	80	450
200	630	171
101	50	5
460	24	45
60	9	210
420	800	30
30	90	500
180	600	3
47	23	380
680	60	70
30	480	320
280	132	110
20	20	130
340	1000	300
480	660	90
205	21	30

B 组

1.

某工厂 2019 年上半年节约用水情况统计图

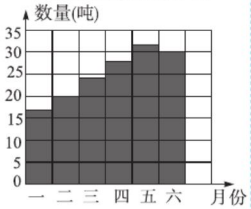

2. 151

第八单元 口算能力测试

（第 54 页）

A 组

9	48	85
7	4	48
216	41	9
50	15	96
50	40	20
100	240	930
160	480	300
2800	130	20
70	30	840
450	220	500
440	630	80
110	130	90
90	70	620
360	420	210
110	410	110
540	680	70

B 组

1.

利民超市上周 5 种水果销售情况统计图

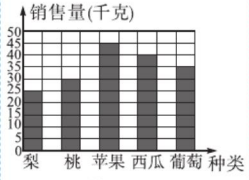

2. 5　3. 苹果　45

4. 苹果　西瓜

回顾整理——总复习

练习 1（第 55 页）

A 组

26	34	14
500	6	210
100	9	6
2	360	280
660	80	80
60	80	50
720	320	480
690	90	110
90	20	90
111	330	520
200	40	270
510	840	50
20	450	780
110	1290	1000
100	150	70
880	100	230

B 组

1. 121　60　24　151

2.《小词典》

3. 16　11

练习 2（第 56 页）

A 组

28	5	5
162	2	320
600	1200	11
510	660	36
33	10	100
20	48	62
90	230	30
80	130	500
720	840	100
60	30	60
70	40	50
840	700	340
530	440	100
40	1240	450
210	110	800
720	70	70

B 组

×√×√×√√√×

练习 3（第 57 页）

A 组

165	600	990
510	315	840
2000	870	1500
260	1120	560
195	1500	420
940	2790	740
570	900	1180
340	2800	1860
720	288	1540
1080	290	255
365	1290	368
700	690	117
1600	960	1350
270	291	1620
1100	1920	1550
1280	1200	3080

B 组

1. 2310　2. 1680

3. 299

4. 1560　5. 713

练习 4（第 58 页）

A 组

5	6	75
42	6	26
7	72	11
72	100	200
240	240	90
50	340	930
390	30	100
70	70	360
660	820	510
90	60	80
20	480	300
280	690	80
70	400	40
750	880	52
1320	410	100

B 组

1. 85　2. 720　3. 1080

4. 31　5. 够

练习 5（第 59 页）

A 组

30	60
400	60
60	110
2	300
3	130
700	121
21	900
0.4	64
200	1600
800	81
900	
1.7	
1100	
5	
3	
23	

B 组

1. 200　2. 10　3. 49

练习 6（第 60 页）

A 组

72	96	80
50	414	107

请沿此虚线裁剪下使用

关注微信公众号“教辅资料站”获取更多学习资料

221	900	3680
480	24	120
42	217	88
84	126	249
91	90	128
140	126	15
101	68	24
65	91	105
810	55	313
21	90	123
112	355	192
61	104	0
90	103	287

B组

1. B　2. A　3. D　4. D

练习7（第61页）

A组

4.6	<	6.4
0.7	<	5.8
1.4	>	1.6
0.5	>	2.4
2.1	<	4.3
3.3	>	6.7
1.2	>	13.7
0.8	<	5.1
3.4	>	5.1
12.3	>	5.9
7.7	<	10
0.1	>	3.8
0.3	>	11.2
0.9	<	18
0.2	>	7.6
1.5		9.9

B组

1.（1）×（2）√（3）√（4）×

2. 1.8　0.6　3.4.7

练习8（第62页）

A组

69	150	780
90	480	120
57	42	120
1240	46	100
82	74	121
125	93	70
13	19	31
156	760	860
107	201	140
51	48	84
105	102	1600
2190	1590	90
140	71	510
570	770	54
25	28	33
18	71	170

B组

1. 略。　2. 小轿车　面包车

口算能力期末综合测评（一）（第63页）

0.7	1.6	200
110	2.1	100
60	240	390
50	60	30
280	320	630
5.9	2.4	6.8
300	690	60
90	30	80
70	460	700
50	70	80
80	60	500
840	900	440
4.1	6.9	100
420	660	130
101	720	960
800	540	101
111	61	10.6
9.2	7.2	5.7
106	104	540
860	16.9	20.9
9.4	16	11.4
105	52	780
18.1	880	940

口算能力期末综合测评（二）（第64页）

1.3	300	800
1.2	100	900
240	360	440
620	150	420
260	280	100
30	70	50
90	40	480
9.9	2.2	7.9
660	480	310
820	300	230
101	90	100
130	50	15.9
2.7	2.4	12.1
25.7	840	900
560	50	103
70	110	10.6
9.3	10.6	1820
1320	60	7.2
3.8	680	1040
11.7	8.4	110
110	444	11.8
7.1	1080	303
323	10.9	205

口算能力期末综合测评（三）（第65页）

220	80	50
5.4	3.2	8.9
330	660	100
130	20	520
260	930	1240
1.2	6.7	8.9
4.4	60	40
690	460	320
50	70	70
101	2.1	8.6
840	860	600
480	110	101
111	6.7	7.5
10.7	3.7	1020
880	500	101
50	53	800
540	9.1	16.3
207	107	570
7.3	14.8	207
230	10.7	16.3
31.4	10.9	340
121	320	144
196	19.2	16.3

口算能力期末综合测评（四）（第66页）

220	62	1500
80		2000
440		2
340	88	24
100	58	900
800	120	8
6400		5
88		3
900		1100
49		2800
625		3900
169		9700
320		3
36		56
400		1000
4900		21000
56		3600
225		7700
		9
		25
		300
		9900
		36
		96

请沿此虚线裁剪下使用

关注微信公众号“教辅资料站”获取更多学习资料

快乐涂色

小朋友你好，看看豆点在做什么？用你的 给下图涂上好看的颜色吧！



关注微信公众号“教辅资料站”获取更多学习资料

亲爱的小朋友，快来和豆点一起用 装点属于你们的秘密花园吧！



关注微信公众号“教辅资料站”获取更多学习资料