荣德基小学系列

荣德基 主编



星级口算天天练

教辅资料站

电子教辅 试卷练习
知识总结 备课资源

四年级 数学 下（R版）

扫码关注获取更多学习资料

时代出版传媒股份有限公司
安徽教育出版社

常规好题题题好 变式妙题道道妙

荣德基 星级口算天天练 四年级数学 下 R版

荣德基小学系列

星级口算天天练

四年级 数学 下（R版）

主 编：荣德基　本册主编：史立峰



学 校：.....

班 级：.....

姓 名：.....

喜欢的格言：.....

时代出版传媒股份有限公司
安徽教育出版社

关注微信公众号“教辅资料站”获取更多学习资料

图书在版编目（CIP）数据

星级口算天天练. 数学四年级. 下 ：R 版 / 荣德基主编. — 合肥 ：安徽教育出版社，2019

ISBN 978-7-5336-8985-8

Ⅰ. ①星… Ⅱ. ①荣… Ⅲ. ①速算－小学－习题集 Ⅳ. ①G624.565

中国版本图书馆 CIP 数据核字（2019）第 171003 号

星级口算天天练 · 四年级数学下（R 版）

XINGJI KOUSUAN TIANTIANLIAN · SINIANJI SHUXUE XIA (R BAN)

出 版 人：费世平
质量总监：武常春
责任编辑：邹孔标
责任校对：王爱民
装帧设计：典点瑞泰
责任印制：荣德印务

出版发行：时代出版传媒股份有限公司　安徽教育出版社
地　　址：合肥市经开区繁华大道西路 398 号　邮编：230601
网　　址：http://www.ahep.com.cn
营销电话：(0551) 63683016，63683015
排　　版：北京华艺优创文化发展有限公司
印　　刷：北京欣睿虹彩印刷有限公司

开　　本：787×1092　1/16
印　　张：5.5
字　　数：120 千字
版　　次：2019 年 10 月第 1 版　2019 年 10 月第 1 次印刷
定　　价：21.90 元

（如发现印装质量问题，影响阅读，请与本社营销部联系调换）

微信公众号 教辅资料站

关注微信公众号“教辅资料站”获取更多学习资料

CONTENTS

目录

第1单元　四则运算

练习1　加、减法的意义和各部分间的关系 …… 1
练习2　乘、除法的意义和各部分间的关系 …… 2
练习3　有关0的运算 …… 3
练习4　括号 …… 4
练习5　解决问题 …… 5
第1单元口算能力测试 …… 6

第2单元　观察物体（二）

练习1　观察物体（1） …… 7
练习2　观察物体（2） …… 8
第2单元口算能力测试 …… 9

第3单元　运算定律

练习1　加法交换律和加法结合律 …… 10
练习2　加法的简便算法 …… 11
练习3　连减的简便算法 …… 12
练习4　习题课 …… 13
练习5　乘法交换律和乘法结合律 …… 14
练习6　乘法分配律 …… 15
练习7　习题课 …… 16
练习8　乘除法的简便计算 …… 17
第3单元口算能力测试 …… 18

第4单元　小数的意义和性质

练习1　小数的意义 …… 19
练习2　小数的组成 …… 20
练习3　小数的读法和写法 …… 21
练习4　习题课 …… 22

微信公众号 教辅资料站

关注微信公众号“教辅资料站”获取更多学习资料



练习 5　小数的性质 …… 23
练习 6　小数的大小比较 …… 24
练习 7　习题课 …… 25
练习 8　小数点移动引起小数大小的变化 …… 26
练习 9　小数点移动引起小数大小的变化的应用… 27
练习 10　习题课 …… 28
练习 11　小数与单位换算（一） …… 29
练习 12　小数与单位换算（二） …… 30
练习 13　小数的近似数 …… 31
练习 14　较大数改写成用“万”或“亿”作单位的小数 …… 32
练习 15　习题课 …… 33
第 4 单元口算能力测试 …… 34



第 5 单元　三角形

练习 1　三角形的特性 …… 35
练习 2　三角形的三边关系 …… 36
练习 3　三角形的分类 …… 37
练习 4　三角形的内角和（一） …… 38
练习 5　三角形的内角和（二） …… 39
第 5 单元口算能力测试 …… 40

第 6 单元　小数的加法和减法

练习 1　小数加减法（一） …… 41
练习 2　小数加减法（二） …… 42
练习 3　习题课 …… 43
练习 4　小数加减混合运算 …… 44
练习 5　习题课 …… 45
练习 6　整数加法运算定律推广到小数 …… 46
第 6 单元口算能力测试 …… 47

微信公众号
教辅资料站

关注微信公众号“教辅资料站”获取更多学习资料



第7单元　图形的运动（二）

练习1　轴对称 …… 48
练习2　平移（一） …… 49
练习3　平移（二） …… 50
练习4　习题课 …… 51
第7单元口算能力测试 …… 52



第8单元　平均数与条形统计图

练习1　平均数 …… 53
练习2　复式条形统计图 …… 54
第8单元口算能力测试 …… 55

第9单元　数学广角——鸡兔同笼

练习　鸡兔同笼 …… 56
第9单元口算能力测试 …… 57

第10单元　总复习

练习1　四则运算 …… 58
练习2　观察物体（二） …… 59
练习3　运算定律 …… 60
练习4　小数的意义和性质 …… 61
练习5　三角形 …… 62
练习6　小数的加法和减法 …… 63
练习7　图形的运动（二） …… 64
练习8　平均数与条形统计图 …… 65
练习9　数学广角——鸡兔同笼 …… 66
口算能力期末综合测评（一） …… 67
口算能力期末综合测评（二） …… 68
参考答案 …… 69

微信公众号 教辅资料站

关注微信公众号“教辅资料站”获取更多学习资料

第1单元 四则运算

练习1 加、减法的意义和各部分间的关系

用时：____分____秒　错误：　个

A组 常规口算题

45 +560 =	900 −120 =	1000 +547 =
879 −79 =	62 +26 =	975 −543 =
210 +1700 =	5608 −406 =	450 +540 =
3850 −2000 =	19 +630 =	620 −425 =
234 +600 =	91 −55 =	785 +115 =
88 +2800 =	500 −199 =	804 +480 =
400 −42 =	8150 −540 =	978 −436 =
155 −88 =	36 +76 =	235 −97 =
334 +2700 =	431 −260 =	876 −58 =
1120 −620 =	6090 +58 =	217 +415 =
608 +860 =	564 −79 =	101 −96 =
257 −162 =	4680 +93 =	412 −187 =
812 −110 =	334 +46 =	967 −556 =
908 −720 =	570 +430 =	46 +384 =
8650 −3240 =	684 −79 =	770 −234 =
243 +560 =	654 +55 =	1000 +504 =

B组 变式口算题

1. 根据 8651 +748 =9399，直接写出下面两道题的得数。

9399 −8651 =　　9399 −748 =

2. 根据加、减法各部分间的关系填数。

(　　) −635 =279	(　　) +182 =310	180 +(　　) =2400
5432 −(　　) =3121	89 +(　　) =907	688 −(　　) =167
(　　) +230 =4500	(　　) −997 =3003	(　　) −411 =379

关注微信公众号“教辅资料站”获取更多学习资料

练习2 乘、除法的意义和各部分间的关系

用时：____分____秒 错误：　个

A组 常规口算题

125×8=	567÷7=	360÷(　　)=12
220×20=	8100÷90=	(　　)×16=960
840÷4=	504×30=	54×(　　)=270
96÷32=	963÷3=	(　　)÷18=30
101×20=	61×80=	14×(　　)=560
639÷9=	410×20=	810÷(　　)=27
78×8=	684÷9=	(　　)×4=960
165÷5=	40×16=	(　　)÷4=64
84×7=	125÷25=	156÷(　　)=78
132÷6=	50×28=	(　　)×11=220
66×8=	420÷21=	880÷(　　)=40
600÷12=	324×5=	(　　)×25=750
73×70=	340÷20=	18×(　　)=540
72÷24=	192÷3=	66×(　　)=330
19×60=	278×5=	786÷(　　)=6
575÷5=	60×46=	(　　)×22=880

B组 变式口算题

1. 填表。

因数	16	20	450	
因数	50		30	70
积		360		770

被除数	312	160		750
除数	6		162	
商		5	4	15

2. 填一填。

(1) 3000个乒乓球，每50个乒乓球装一盒，可以装(　　)盒。

(2)小红1分钟能打70个字，12分钟可以打(　　)个字。

(3)摩托车3小时行135千米，平均每小时行(　　)千米。

关注微信公众号“教辅资料站”获取更多学习资料

练习3 有关0的运算

用时：___分___秒 错误：　个

A组 常规口算题

560 − 421 =	450 ÷ 50 =	0 × 419 =
88 + 422 =	7000 − 3100 =	630 ÷ 70 =
41 × 50 =	0 ÷ 87 =	271 − 156 =
930 ÷ 30 =	731 + 590 =	603 × 30 =
280 × 50 =	874 + 0 =	420 ÷ 60 =
7640 − 0 =	150 ÷ 30 =	71 + 643 =
246 ÷ 3 =	0 × 0 =	672 × 2 =
438 + 505 =	600 − 394 =	504 ÷ 4 =
44 × 40 =	188 ÷ 4 =	0 + 0 =
840 ÷ 12 =	882 + 4400 =	700 − 194 =
5366 − 2245 =	512 × 5 =	600 ÷ 50 =
306 ÷ 6 =	56 × 11 =	707 × 10 =
178 + 57 =	688 ÷ 4 =	8000 − 4321 =
32 × 90 =	610 − 455 =	500 ÷ 4 =
900 − 671 =	199 + 540 =	148 × 5 =
549 ÷ 3 =	21 × 22 =	338 + 78 =

B组 变式口算题

1. 在◯里填上“ > ”“ < ”或“ = ”。

999 × 0 ◯ 0 + 99　　0 ÷ 78 ◯ 0 × 78　　135 + 0 ◯ 71 + 59

2. 已知▼ + ◆ = ★，◎ ÷ ⊙ = ¤。请你判断下面哪些算式是正确的？在正确的算式后面的(　　)里画“√”。

(1) ◆ − ▼ = ★　(　　)　　(2) ★ − ◆ = ▼　(　　)

(3) ◎ ÷ ¤ = ⊙　(　　)　　(4) ¤ × ◎ = ⊙　(　　)

3. 把下面每组用字母表示的算式改写成一个综合算式。

A × B = C　　D − E = F　　F ÷ C = G　　_____

关注微信公众号“教辅资料站”获取更多学习资料

练习4 括号

用时：___分___秒 错误：　个

A组 常规口算题

816 ÷ 4 =	1008 + 643 =	60 × (24 ÷ 8) =
84 + 364 =	80 × 14 =	(530 − 505) × 40 =
315 × 2 =	660 ÷ 20 =	900 − (185 + 275) =
88 × 40 =	650 − 243 =	580 ÷ (238 − 180) =
6000 − 3000 =	209 × 20 =	(9876 − 9876) × 765 =
535 ÷ 5 =	63 + 39 =	(70 − 46) × (180 ÷ 90) =
48 × 50 =	700 ÷ 35 =	(127 + 273) ÷ 80 =
642 ÷ 6 =	972 − 300 =	20 × (364 ÷ 7) =
364 + 280 =	364 ÷ 4 =	12 × (490 ÷ 70) =
604 × 8 =	57 + 743 =	(81 + 159) × 5 =
405 − 88 =	63 × 30 =	84 ÷ (840 ÷ 40) =
531 ÷ 3 =	121 − 65 =	(147 − 52) × 6 =
60 × 51 =	186 ÷ 6 =	18 × (432 − 382) =
79 + 865 =	44 × 30 =	(210 + 78) × 2 =
420 − 245 =	145 × 5 =	(671 + 112) ÷ 9 =
468 ÷ 6 =	785 + 560 =	72 × (400 ÷ 50) =

B组 变式口算题

◆ 按照顺序计算，填写出下面的□，然后列出综合算式。

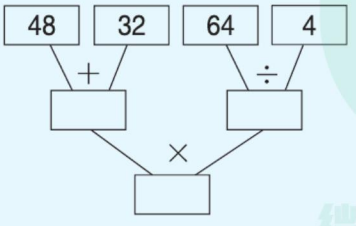

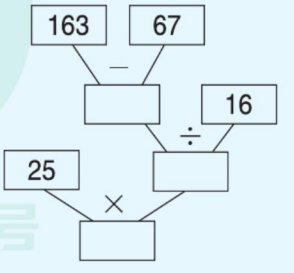

微信公众号 教辅资料站

关注微信公众号“教辅资料站”获取更多学习资料

练习5 解决问题

用时：___分___秒 错误： 个

A组 常规口算题

180 − 41 =	844 ÷ 4 =	680 ÷ (5 × 2) =
40 × 140 =	540 − 245 =	(32 + 43) ÷ 3 =
0 + 706 =	202 × 50 =	900 − (390 + 210) =
265 ÷ 5 =	81 + 38 =	99 × 0 ÷ 3 =
750 − 680 =	156 ÷ 4 =	600 ÷ (10 × 6) =
60 × 32 =	6500 − 1900 =	(341 − 288) × 4 =
425 + 67 =	512 × 5 =	680 ÷ (51 ÷ 3) =
300 × 40 =	700 ÷ 50 =	(812 − 12) ÷ 20 =
93 − 77 =	440 + 86 =	22 × (500 ÷ 25) =
612 ÷ 3 =	33 × 11 =	(75 + 315) ÷ 39 =
90 × 13 =	1000 − 754 =	900 ÷ (120 − 90) =
47 + 59 =	200 ÷ 8 =	220 ÷ 5 × 90 =
360 ÷ 30 =	233 × 3 =	(450 − 200) ÷ 5 × 8 =
5000 − 2289 =	643 + 86 =	1245 − (46 + 138) =
654 × 4 =	152 ÷ 4 =	432 + (155 − 99) =
852 ÷ 6 =	628 − 188 =	40 × (366 ÷ 6) =

B组 变式口算题

1. 判断计算结果是否正确，并将错误的改正过来。

600 + 400 ÷ 25 − 40
= 1000 ÷ 25 − 40
= 40 − 40
= 0

51 × (1600 ÷ 40 − 20)
= 51 × (1600 ÷ 20)
= 51 × 8
= 408

2. 在每组中得数大的算式后面画“√”。

(1) 90 − 38 × 2　　(90 − 38) × 2

(2) 50 + 16 + 80 ÷ 4　　50 + (16 + 80) ÷ 4

(3) 600 + 432 ÷ 6 × 9　　600 + 432 ÷ (6 × 9)

微信公众号 教辅资料站

关注微信公众号“教辅资料站”获取更多学习资料

第1单元口算能力测试

用时：___分___秒 错误：　个

A组 常规口算题

480 ÷ 20 =	0 ÷ 69 =	200 × 6 ÷ 4 =
102 + 388 =	80 × 15 =	(160 × 40 − 3800) ÷ 26 =
62 × 9 =	610 − 340 =	26 × 4 − 125 ÷ 5 =
312 − 250 =	538 + 44 =	(15 + 85 × 0) ÷ 15 =
0 + 6754 =	186 ÷ 62 =	(285 − 15 + 20) × 4 =
386 − 51 =	25 × 8 =	60 + 600 ÷ (15 − 5) =
600 ÷ 15 =	475 − 0 =	4800 ÷ 24 − 77 =
145 × 6 =	34 × 5 =	38 + 25 × 4 × 47 =
152 − 147 =	360 ÷ 18 =	(287 − 199) ÷ 8 =
1300 ÷ 65 =	400 − 235 =	(520 + 480) ÷ 50 × 4 =
50 × 68 =	398 + 142 =	3 × 125 × 8 ÷ 20 =
615 − 415 =	62 × 30 =	168 ÷ 3 − (175 − 119) =
129 − 87 =	456 ÷ 3 =	(400 − 245) × 6 =
287 + 278 =	82 × 70 =	180 ÷ (480 ÷ 80) =
435 × 2 =	6170 − 4200 =	(219 + 431) × 30 =
915 ÷ 5 =	356 + 179 =	(694 − 540) ÷ 7 =

B组 变式口算题

1. 在◯里填上适当的运算符号，使等号两边相等。

5 ◯ 5 ◯ 5 ◯ 5 = 0　　5 ◯ 5 ◯ 5 ◯ 5 = 1

5 ◯ 5 ◯ 5 ◯ 5 = 2　　5 ◯ 5 ◯ 5 ◯ 5 = 10

2. 根据加、减、乘、除法各部分间的关系和给出的算式，写出相应的另外两个算式。

417 + 84 = 501		132 × 32 = 4224	
6054 − 3460 = 2594		2117 ÷ 73 = 29	

微信公众号 教辅资料站

关注微信公众号“教辅资料站”获取更多学习资料

第2单元 观察物体（二）

练习1 观察物体（1）

用时：____分____秒　错误：　个

A组 常规口算题

100 − 64 =	712 × 2 =	(420 + 130) ÷ 5 =
840 ÷ 7 =	500 + 122 =	770 − (255 + 45) =
51 × 70 =	98 − 39 =	360 ÷ (120 − 90) =
215 + 85 =	400 ÷ 80 =	(114 − 88) × 20 =
440 ÷ 40 =	30 × 31 =	176 − (109 − 79) =
24 × 5 =	100 − 49 =	250 ÷ (50 ÷ 5) =
161 − 45 =	600 ÷ 5 =	2100 − (700 + 800) =
38 × 20 =	780 ÷ 20 =	(220 − 196) × 30 =
400 × 90 =	816 − 51 =	(798 + 22) ÷ 4 =
346 + 37 =	102 × 50 =	33 + (936 − 736) =
240 ÷ 5 =	750 × 4 =	(313 − 153) × 10 =
108 × 6 =	840 ÷ 6 =	540 ÷ (30 × 3) =
476 + 154 =	164 ÷ 4 =	760 ÷ (38 ÷ 2) =
612 × 9 =	800 − 444 =	280 + (971 − 355) =
58 × 60 =	368 + 1242 =	(135 + 265) × 20 =
568 ÷ 4 =	210 × 20 =	9000 − (3478 + 1222) =

B组 变式口算题

◆ 连一连。

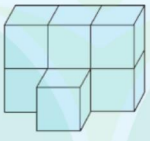

从前面看　　从上面看　　从左面看

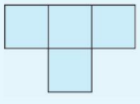

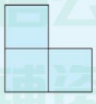

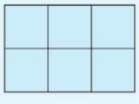

微信公众号 教辅资料站

关注微信公众号“教辅资料站”获取更多学习资料

练习2 观察物体（2）

用时：___分___秒 错误：　个

A组 常规口算题

44 × 2 =	0 ÷ 756 =	460 − (71 + 59) =
482 ÷ 2 =	420 − 170 =	(165 + 185) ÷ 70 =
348 + 50 =	81 × 30 =	85 + (205 − 150) =
770 − 550 =	149 + 65 =	(632 − 232) ÷ (16 × 5) =
611 × 4 =	880 ÷ 11 =	(317 − 107) × 50 =
640 ÷ 40 =	600 − 534 =	350 − (191 − 141) =
990 + 0 =	70 × 22 =	80 × (540 ÷ 9) =
340 − 145 =	57 + 233 =	(480 ÷ 24) × (175 − 135) =
4 × 85 =	990 ÷ 30 =	780 + (81 − 60) =
824 ÷ 4 =	319 − 80 =	0 ÷ (480 + 520) =
43 + 544 =	20 × 500 =	(510 − 240) ÷ 3 =
800 − 672 =	95 + 705 =	30 × (810 ÷ 90) =
1400 − 770 =	166 × 3 =	(240 + 459) ÷ 3 =
711 ÷ 3 =	500 − 179 =	50 × (68 ÷ 4) =
909 × 9 =	686 + 144 =	1200 − (516 + 312) =
349 + 89 =	567 ÷ 9 =	(241 − 181) × 19 =

B组 变式口算题

1. 画出从前面、上面和左面看到的图形。

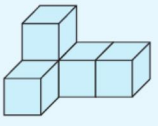

2. 下面三个物体从(　　)面看到的形状相同。

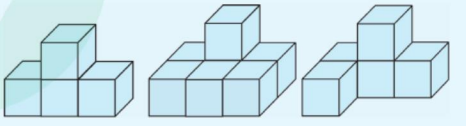

微信公众号 教辅资料站

关注微信公众号“教辅资料站”获取更多学习资料

第2单元口算能力测试

用时：___分___秒　错误：　个

A组 常规口算题

82 × 60 =	272 ÷ 4 =	(300 − 165) × 2 =
76 + 22 =	8 × 125 =	(44 + 0) ÷ 11 =
644 ÷ 7 =	2100 ÷ 70 =	52 ÷ 4 × (81 − 61) =
500 − 260 =	300 × 22 =	890 ÷ 89 × 0 =
480 − 15 =	28 + 45 =	348 − (2 + 28) =
502 × 10 =	300 ÷ 15 =	258 − 45 × 4 =
8400 ÷ 400 =	161 − 82 =	(305 − 25) ÷ 5 =
450 − 18 =	702 × 30 =	68 ÷ 4 × (200 − 180) =
558 ÷ 9 =	1400 ÷ 200 =	(693 − 33) ÷ 60 =
298 − 29 =	708 + 59 =	4500 ÷ (18 × 5) =
216 ÷ 4 =	0 × 57 =	(512 − 112) ÷ 8 =
70 × 44 =	329 − 140 =	80 × (330 − 280) =
29 × 30 =	540 ÷ 3 =	(68 + 137) ÷ 5 =
349 + 277 =	88 × 30 =	0 × (776 + 599) =
384 ÷ 6 =	411 − 236 =	55 × (670 − 590) =
2400 − 1366 =	485 + 133 =	(429 − 284) × 6 =

B组 变式口算题

◆ 看一看，填一填。



1. 从前面看到的形状是  的有(　　)，从前面看到的形状是  的有(　　)。

2. 从左面看到的形状是  的有(　　)。

3. ④是由(　　)个小正方体搭成的。

微信公众号 数辅资料站

关注微信公众号“数辅资料站”获取更多学习资料

难易等级：

练习1 加法交换律和加法结合律

用时：____分____秒　错误：　个

A组 常规口算题

44 +59 =	160 +350 =	25 +90 +75 =
700 −440 =	96 +69 =	25 +75 +90 =
564 +220 =	81 −64 =	31 +52 +69 =
28 +340 =	610 +730 =	31 +69 +52 =
900 −177 =	48 +42 =	88 +40 +12 =
162 +17 =	90 −32 =	88 +12 +40 =
99 +70 =	600 +330 =	273 +510 +27 =
876 −641 =	119 +51 =	273 +27 +510 =
460 +709 =	530 −180 =	444 +18 +56 =
621 −493 =	439 +70 =	444 +56 +18 =
75 +160 =	333 −193 =	680 +140 +220 =
605 −540 =	400 +289 =	680 +220 +140 =
216 −158 =	375 +167 =	462 +543 +138 =
646 +288 =	801 −478 =	462 +138 +543 =
510 −344 =	129 +396 =	141 +632 +259 =
76 +384 =	142 −94 =	141 +259 +632 =

B组 变式口算题

1. 根据加法交换律和结合律填空。

43 +77 = □ +43　　66 +22 +78 =66 +(□ +□)

160 +(485 +240) =(160 +□) +485

2. 先计算，再填表。

+	41	120	159	200
41				
120				
159				
200				

微信公众号 教辅资料站

关注微信公众号“教辅资料站”获取更多学习资料

练习2 加法的简便算法

用时：___分___秒 错误：　个

A组 常规口算题

51 + 86 =	720 − 340 =	155 + 67 + 45 =
453 − 220 =	81 + 63 =	900 + 108 + 92 =
134 + 692 =	510 − 240 =	46 + 127 + 54 + 373 =
80 + 96 =	640 + 192 =	414 + 311 + 86 =
433 − 244 =	56 + 70 =	322 + 78 + 161 =
900 + 310 =	600 − 420 =	19 + 405 + 95 + 91 =
81 − 67 =	74 + 47 =	220 + 390 + 610 =
72 + 185 =	183 + 53 =	55 + 490 + 145 =
567 − 460 =	96 + 24 =	237 + 140 + 23 =
491 + 589 =	110 − 70 =	644 + 111 + 56 + 89 =
138 + 367 =	931 − 63 =	215 + 60 + 85 =
518 + 269 =	553 + 159 =	282 + 118 + 339 =
420 − 178 =	256 + 965 =	114 + 245 + 186 =
274 + 157 =	300 − 186 =	244 + 55 + 35 + 156 =
110 − 83 =	358 + 162 =	401 + 364 + 99 =
686 + 574 =	611 − 548 =	373 + 211 + 127 =

B组 变式口算题

1. 根据加法交换律和结合律填空。

$a + b + \square = a + (\square + c)$　　$570 + 180 + 30 = (\square + \square) + 180$

$46 + 71 + 154 + 129 = (46 + \square) + (\square + 129)$

$236 + 181 + 319 + 164 = (\square + \square) + (\square + \square)$

2. 连线。（将和是整百的两个数用线连起来）

445　182　121　258　117　466　168

79　55　83　142　232　418　34

关注微信公众号“教辅资料站”获取更多学习资料

练习3 连减的简便算法

用时：___分___秒 错误：　个

A组 常规口算题

340 +70 =	198 −83 =	564 −248 −52 =
82 −77 =	65 +54 =	769 −153 −147 =
630 +56 =	674 −454 =	800 −194 −206 =
310 −180 =	71 +18 =	435 −88 −112 =
99 +66 =	54 −29 =	608 −322 −108 =
400 −285 =	450 +520 =	975 −777 −23 =
381 +22 =	300 −199 =	591 −254 −146 −81 =
80 −67 =	543 +107 =	294 −65 −135 =
197 +340 =	810 −550 =	697 −319 −181 =
212 −140 =	69 +75 =	880 −457 −223 =
84 +96 =	871 −471 =	593 −184 −193 −116 =
438 −338 =	650 +60 =	748 −75 −148 −125 =
220 −169 =	978 −467 =	536 −134 −266 =
677 +188 =	534 +296 =	900 −171 −429 =
473 +184 =	636 −587 =	407 −154 −107 =
551 −468 =	229 +438 =	1800 −672 −428 =

B组 变式口算题

1. 在◯里填上合适的运算符号，在横线上填上合适的数。

539 −152 −248 =539 ◯(152 + ____)

2780 −838 −162 = ____◯(838 ◯162)

768 −237 −268 −163 =768 − ____ −(____ ◯____)

2. 工人叔叔修一条全长 1000 km 的公路，第一周修了 245 km，第二周修了 255 km，还有(　　) km 没修。

关注微信公众号“教辅资料站”获取更多学习资料

练习4 习题课

用时：___分___秒 错误：　个

A组 常规口算题

96 +73 +27 =	25 +31 +75 +69 =	450 −71 −129 =
400 −117 −83 =	42 +205 +58 =	756 −39 −61 =
121 +42 +179 =	258 −167 −58 =	270 +319 +130 =
168 +21 +32 +179 =	55 +81 +245 =	789 −466 −34 =
328 −22 −78 =	160 +356 +240 =	249 −57 −149 =
431 +55 +69 =	321 −(74 +26) =	500 +178 +22 =
272 −98 −72 =	29 +74 +71 +26 =	155 −84 −16 =
44 +56 +177 =	340 −95 −105 =	82 +69 +18 =
540 −220 −180 =	35 +65 −35 +65 =	442 −123 −77 =
742 −108 +58 =	435 −(135 +60) =	534 −49 −11 −40 =
58 +68 +142 +32 =	1800 −(39 +861) =	696 −78 −22 =
357 −76 −157 =	1200 −620 −480 =	54 +147 +53 +46 =
770 +120 +230 =	458 −132 −38 =	555 +235 +145 =
629 −147 −329 =	241 +132 +159 =	63 +29 +27 +71 =
511 +302 +289 =	990 −545 −190 =	452 −136 −64 =
557 −341 −157 =	643 +129 +157 =	206 +244 +194 =

B组 变式口算题

1. 要使计算简便，先猜一猜□里的数可能是几，再填一填，算一算。

78 +□ +56 =　　87 +□ +13 +169 =　　453 −□ −75 =

□ +143 +66 =　　808 −139 −□ =　　□ +85 +73 +□ =

2. 用合适的方法计算。

2 +4 +6 +8 +⋯ +20 =（　　）

101 +103 +105 +107 +109 =（　　）

微信公众号 教辅资料站

关注微信公众号“教辅资料站”获取更多学习资料

练习5 乘法交换律和乘法结合律

用时：___分___秒 错误：　个

A组 常规口算题

56 × 5 =	340 × 30 =	125 × 3 × 8 =
206 × 2 =	9 × 17 =	125 × 8 × 3 =
123 × 3 =	402 × 20 =	40 × 7 × 5 =
410 × 10 =	35 × 3 =	40 × 5 × 7 =
60 × 101 =	5 × 112 =	31 × 2 × 5 =
90 × 80 =	245 × 2 =	31 × 5 × 2 =
130 × 30 =	505 × 50 =	25 × 9 × 8 =
48 × 40 =	90 × 210 =	25 × 8 × 9 =
7 × 305 =	61 × 50 =	9 × 90 × 10 =
80 × 22 =	519 × 5 =	9 × 10 × 90 =
940 × 8 =	701 × 70 =	36 × 3 × 5 =
173 × 4 =	80 × 200 =	36 × 5 × 3 =
50 × 85 =	900 × 6 =	15 × 7 × 6 =
245 × 8 =	70 × 310 =	15 × 6 × 7 =
420 × 90 =	157 × 4 =	18 × 9 × 5 =
314 × 3 =	60 × 120 =	18 × 5 × 9 =

B组 变式口算题

1. 根据乘法交换律和结合律填上合适的数。

$a \times 67 = 67 \times$ □　　$4 \times 59 \times 25 = 59 \times ($ □ $\times$ □ $)$

$342 \times$ □ $= b \times$ □　　$125 \times ($ □ $\times 21) = ($ □ $\times 8) \times$ □

2. 连线。（将上下两行得数相等的算式用线连起来）

53 × 15 × 2　　(15 × 50) × 4　　99 × 125 × 8　　4 × (25 × 14)

99 × (125 × 8)　　53 × (15 × 2)　　15 × (50 × 4)　　(4 × 25) × 14

关注微信公众号“教辅资料站”获取更多学习资料

练习6 乘法分配律

用时：___分___秒　错误：　个

A组 常规口算题

330×30=	421×3=	(100+2)×25=
45×20=	506×10=	100×25+25×2=
74×20=	80×800=	15×(4+8)=
801×30=	55×40=	15×4+15×8=
70×12=	210×30=	75×4+25×4=
522×5=	2000×80=	(75+25)×4=
60×90=	405×50=	(40+4)×50=
96×5=	9×111=	40×50+4×50=
25×16=	60×65=	85×20+15×20=
70×37=	510×2=	(85+15)×20=
80×23=	202×40=	25×(30+8)=
140×70=	39×60=	25×30+25×8=
128×5=	400×80=	21×9+79×9=
42×70=	541×6=	(21+79)×9=
60×302=	20×510=	102×16=
8×112=	92×40=	100×16+2×16=

B组 变式口算题

1. 利用乘法分配律在□里填上合适的数。

(38+25)×4=□×4+□×4　　15×23+27×15=(□+□)×15

(73+□)×10=□×10+7×□　　68×42+68×58=(□+□)×□

2. 根据乘法分配律判断下列算式是否正确。

(1)101×76=100×76+76　　(　　)

(2)12×8×8×13=(12+13)×8　　(　　)

关注微信公众号“教辅资料站”获取更多学习资料

练习7 习题课

用时：___分___秒 错误：　个

A组 常规口算题

17 × 5 =	190 × 20 =	85 × 99 + 85 =
401 × 90 =	6 × 540 =	50 × 12 × 8 =
360 × 5 =	55 × 60 =	100 × 22 + 4 × 22 =
44 × 20 =	307 × 9 =	48 × 45 + 45 × 52 =
3 × 422 =	80 × 110 =	100 × 62 − 62 =
6 × 511 =	22 × 400 =	(4 + 8) × 125 =
305 × 8 =	35 × 80 =	20 × 7 × 25 =
51 × 9 =	604 × 20 =	88 × 100 + 88 =
950 × 10 =	78 × 100 + 78 =	(40 + 8) × 125 =
480 × 20 =	200 × 12 =	(125 + 60) × 8 =
710 × 8 =	400 × 16 =	78 × 16 + 22 × 16 =
27 × 4 =	128 × 5 =	2 × 29 × 50 =
365 × 2 =	510 × 30 =	90 × 50 × 2 =
290 × 20 =	36 × 7 =	4 × 125 × 9 =
607 × 30 =	48 × 50 =	18 × 45 × 2 =
164 × 3 =	209 × 30 =	164 × 32 + 32 × 36 =

B组 变式口算题

◆ 填一填。

103 × 85 = (　　) × 85 + (　　) × 85

98 × 36 = (　　) × 36 − (　　) × 36

29 + 29 × 99 = (　　) × (　　)

(　　) × 47 − 5 × 47 = 100 × 47

101 × 63 = (　　) × (　　) + (　　) × (　　)

关注微信公众号“教辅资料站”获取更多学习资料

练习8 乘除法的简便计算

用时：___分___秒 错误：　个

A组 常规口算题

16×23×5=	15×19×2=	600÷25÷4=
140÷4÷7=	7×45×4=	23×25×8=
8×125×19=	810÷(9×3)=	500÷4÷25=
560÷16÷5=	14×35×2=	4×72×15=
5×99×20=	630÷5÷63=	4×(5×25)×8=
720÷3÷8=	1300÷5÷20=	55×8×2=
50×39×4=	420÷5÷6=	750÷5÷2=
360÷8÷5=	125×6×4=	4×46×25=
125×25×32=	2400÷25÷4=	8000÷125÷8=
4800÷(8×4)=	80×9×5=	65×2×4=
60×31×5=	4200÷(14×3)=	14×9×5=
630÷45÷2=	300÷5÷12=	5×90×12=
32×125=	420÷6÷7=	960÷5÷48=
55×3×4=	102×33=	140÷5÷7=
392÷(4×7)=	25×11×2=	6400÷16÷4=
99×35=	800÷25÷4=	45×7×2=

B组 变式口算题

1. 在○里填上合适的运算符号，在横线上填上合适的数。

(1)5600÷25÷4=5600÷(_____○_____)

(2)7500÷15÷5=_____○(_____○_____)

(3)360÷(9×8)=360÷_____○_____

2. 算一算，填一填。

(1)有99盒水彩笔，每盒24支，一共有(　　)支水彩笔。

(2)一个足球44元，买25个花(　　)元。

关注微信公众号“教辅资料站”获取更多学习资料

第3单元口算能力测试

用时：___分___秒 错误：　个

A组 常规口算题

859 − 254 − 246 =	74 + 41 + 159 =	4500 ÷ 6 ÷ 50 =
40 × 185 − 15 × 40 =	63 × 99 + 63 =	635 − 22 − 78 =
25 × 102 =	720 ÷ 15 ÷ 2 =	8 × (25 × 11) =
92 + 312 + 108 =	97 × 79 + 97 × 21 =	3000 ÷ 12 ÷ 5 =
442 − 145 − 155 =	32 × 4 × 25 × 3 =	103 × 61 − 61 × 3 =
27 × 125 × 8 =	224 + 125 + 76 =	756 − (56 − 22) =
373 + 25 − 173 =	560 ÷ 4 ÷ 14 =	20 × 48 × 5 =
415 − 176 − 24 =	229 + 37 + 71 + 63 =	125 × 88 =
178 × 15 + 22 × 15 =	390 ÷ (13 × 3) =	500 − 196 − 304 =
360 − 99 − 71 =	101 × 87 =	43 + 17 + 85 =
125 + 136 + 175 + 164 =	1800 ÷ 12 ÷ 5 =	173 + 157 − 73 + 43 =
23 × 3 + 67 × 3 =	(28 + 20) × 5 =	480 ÷ 24 ÷ 2 =
1900 ÷ 50 ÷ 2 =	761 − 131 − 161 =	674 + 332 + 126 =
305 + 142 + 195 =	6 × 54 × 5 =	900 ÷ 36 =
125 × 16 =	408 ÷ (8 × 3) =	102 × 48 =
1850 − 380 − 620 =	431 + 254 + 169 =	25 × 18 × 4 =

B组 变式口算题

◆ 选择。

1. 下列式子等于○ − ◇ − ▽的是(　　)。

A. ○ − (◇ − ▽)　　B. ○ − (▽ − ◇)　　C. ○ − (◇ + ▽)

2. 下列算式中错误的是(　　)。

A. 97 + 56 = 56 + 97　　B. 42 × 98 + 2 = 42 × 100

C. 1400 ÷ (70 × 4) = 1400 ÷ 70 ÷ 4

关注微信公众号“教辅资料站”获取更多学习资料

第4单元 小数的意义和性质

练习1 小数的意义

用时：___分___秒　错误：　个

A组 常规口算题

0.6 + 0.8 =
2.4 − 0.9 =
5 − 1.5 =
3.8 + 2.1 =
3.2 + 9.7 =
34.6 − 20.4 =
1.5 + 17.3 =
20.4 − 19.8 =
10.1 − 2.7 =
8.8 + 9.3 =
9.4 − 3.3 =
22.5 − 12.3 =
37.2 − 18.9 =
50.5 − 39.7 =
10 − 7.6 =
61.1 − 45.6 =

1.9 − 0.7 =
4.2 + 3.3 =
4.6 − 2.8 =
7.3 − 5.9 =
2.1 − 0.9 =
2.5 + 4.9 =
5.2 − 2.8 =
1.8 + 1.6 =
3.8 + 4.9 =
7.6 − 2.3 =
11.2 + 4.4 =
6.2 + 5.8 =
54.8 + 13.3 =
29.8 + 17 =
34.4 + 18.9 =
31.7 + 22.7 =

◆ 比较大小。

1.7 ◯ 1.6
0.9 ◯ 0.8
6.3 ◯ 5.9
15.2 ◯ 15.2
3.6 ◯ 5.6
7.8 ◯ 6.9
4.1 ◯ 3.7
5.8 ◯ 6
20 ◯ 19.9
1.5 ◯ 1.6
9.4 ◯ 9.5
67.1 ◯ 61.7

B组 变式口算题

1. 看图写出相应的分数和小数。

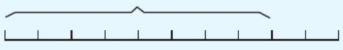

分数：_____小数：_____



分数：_____小数：_____

2. 连线，将分数和相应的小数用线连起来。

0.09　　0.009　　0.9

$\frac{9}{10}$　　$\frac{9}{100}$　　$\frac{9}{1000}$

关注微信公众号“教辅资料站”获取更多学习资料

练习2 小数的组成

用时：___分___秒 错误：　个

A组 常规口算题

5.4 +1.8 =
3.9 −2.6 =
10.3 −7.8 =
11.9 +0.9 =
8.8 −5.9 =
28.2 +9.8 =
6.5 −6.3 =
7.3 −5.4 =
10.2 −9.2 =
2.4 −0.5 =
0.8 +1.8 =
4.6 +3.7 =
15.6 +24 =
61.2 −39.6 =
7.8 +17.8 =
82.4 −54.6 =

7.7 −3.9 =
4.1 −3.4 =
6.9 +12.4 =
15.4 −14.2 =
32.7 +12.3 =
2.1 −1.2 =
1.8 +0.6 =
1.1 −0.4 =
9.4 +9.3 =
3.1 +1.3 =
33.2 +12.9 =
27.8 −14.6 =
31 −3.1 =
25.7 +42.9 =
51.2 −39.9 =
12.8 +18.2 =

◆ 比较大小。

4.3 ◯ 3.9
20.1 ◯ 21
7.8 ◯ 7.7
45.6 ◯ 54.1
3.1 ◯ 3.0
2.8 ◯ 2.7
72.1 ◯ 71.2
9.9 ◯ 10
0.7 ◯ 0.6
6.6 ◯ 9.9
10.5 ◯ 8.5
9.6 ◯ 9.5

B组 变式口算题

◆ 填一填。

1. 8.45 是由(　　)个一、(　　)个十分之一和(　　)个百分之一组成的。

2. 在小数 12.39 中，1 在(　　)位上，2 在(　　)位上，3 在(　　)位上，9 在(　　)位上。

3. 0.9 里面有(　　)个 0.1。

4. 0.62 里面有(　　)个 0.01。

关注微信公众号“教辅资料站”获取更多学习资料

练习3 小数的读法和写法

用时：___分___秒 错误： 个

A组 常规口算题

46.9 −6.9 =
10.1 −9.1 =
26.8 +6.8 =
1.3 −0.7 =
0.7 −0.5 =
21.7 +1.7 =
17.8 −17.4 =
32.9 −10.5 =
0.8 +24.4 =
7.3 −2.3 =
8.2 −7.3 =
3.2 +3.6 =
18.5 −18.1 =
12.3 +7.8 =
40 −35.5 =
14.8 +36.5 =

37.8 +4.2 =
4.2 −2.4 =
54.6 +21.4 =
3.1 −1.4 =
1.3 +8.7 =
8.2 −2.8 =
9.6 +5.2 =
11.7 +2.2 =
5.5 −0.5 =
1.4 +1.9 =
6.6 −3.3 =
9.3 −1.9 =
0.6 +0.6 =
25.1 −9.6 =
37.3 +25.8 =
19.2 −14.6 =

◆ 比较大小。

6.9 ◯ 4.9
7.6 ◯ 7.8
80.3 ◯ 83.0
44.3 ◯ 43.4
60.7 ◯ 70.6
2.3 ◯ 3.2
5.4 ◯ 5.3
4.5 ◯ 4.9
53.1 ◯ 51.3
8.7 ◯ 9.1
1.1 ◯ 1.7
84.5 ◯ 84.1

B组 变式口算题

1. 一个数由6个十、1个十分之一和9个百分之一组成，这个数是(　　)。

2. 读出下面各小数。

0.985　读作：_____　　368.12　读作：_____

20.04　读作：_____　　13.054　读作：_____

3. 写出下面各小数。

七十二点零三　写作：_____　　三千一百零五点二二一　写作：_____

十五点二八　写作：_____　　三百点二零六　写作：_____

关注微信公众号“教辅资料站”获取更多学习资料

练习4 习题课

用时：___分___秒 错误：　个

A组 常规口算题

50.5 −5.5 =
9.3 +1.4 =
60.9 −9.9 =
1.4 −0.9 =
22.2 +5.5 =
5.2 −2.9 =
8.3 +4.5 =
69.9 −58.7 =
58.4 +16.6 =
7.1 −1.7 =
51.2 +38.8 =
61.3 −41.3 =
21.9 −18 =
45.2 +18.7 =
13.1 −6.5 =
5.7 +69.9 =

8.1 +1.9 =
3.7 −2.7 =
45.7 −5.4 =
2.4 +4.2 =
7.9 −6.9 =
8.8 +4.4 =
10.4 −6.7 =
70.9 +10.9 =
20.2 −17.7 =
4.6 +6.8 =
60.7 −33.3 =
80.5 +15.5 =
37.7 +7.7 =
10 −6.4 =
25.4 +16.8 =
12.3 −5.8 =

◆ 比较大小。

18.4 ◯ 18.5
36.8 ◯ 35.8
7.4 ◯ 8.4
21.1 ◯ 21.2
47.1 ◯ 41.7
55.6 ◯ 55.4
86.4 ◯ 84.6
19.3 ◯ 13.9
24.9 ◯ 30.1
49.8 ◯ 48.9
0.9 ◯ 1.0
50.6 ◯ 49.9

B组 变式口算题

1. 在直线上标出下列小数的位置。

0.2　0.7　1.2　1.45　1.8



2. 用4、1、0、7这四个数和小数点“.”写出下面各数，每个数都要用上并且只能用一次。（写出一个即可）

(1)大于7并且小数部分是三位的小数，组成的小数是(　　)。

(2)0不读出来且小数部分是两位的小数，组成的小数是(　　)。

(3)小于5且小数部分是三位的小数是(　　)。

关注微信公众号“教辅资料站”获取更多学习资料

练习5 小数的性质

用时：___分___秒 错误： 个

A组 常规口算题

57 +96 +43 =	800 ÷25 ÷8 =	25 ×7 ×4 =
134 −42 −58 =	102 ×33 =	11 +28 +89 +72 =
125 ×3 ×8 =	1600 ÷25 ÷4 =	198 −37 −63 =
370 +142 +130 =	328 −95 −228 =	125 ×32 =
350 ÷2 ÷25 =	4 ×18 ×5 =	107 +57 +93 =
(20 +8) ×15 =	100 −33 −47 =	99 ×50 =
125 +68 −25 =	1000 −431 −269 =	210 ÷(7 ×5) =
629 −(129 +304) =	6 ×17 ×15 =	22 ×66 −22 ×56 =
8 ×41 ×5 =	1800 ÷25 ÷4 =	310 +170 +90 =
376 −110 −176 =	(4 +8) ×125 =	40 ×7 ×25 =
3000 ÷8 ÷125 =	4900 +500 +500 =	98 ×101 =
221 +351 +279 =	5 ×89 ×4 =	540 ÷(9 ×3) =
2000 ÷8 ÷125 =	371 −144 −56 =	363 +112 +137 =
72 ×25 =	700 ÷4 ÷25 =	5000 −1190 −2810 =
764 −228 −264 =	104 ×32 =	28 ×7 ×5 =
242 +139 +158 =	16 ×22 ×5 =	600 ÷25 ÷6 =

B组 变式口算题

1. 不改变数的大小，把下面各数写成两位小数。

2.1 = ____ 13.4000 = _____ 56 = _____ 7.100 = _____ 8.3 = _____

2. 化简下面各数。

6.500 = 9.090 = 4.00 = 10.1000 =

3. 把相等的数用线连起来。

4.040 30 1.0000 0.080 6

6.0 4.04 1.0 30.00 0.08

关注微信公众号“教辅资料站”获取更多学习资料

练习6 小数的大小比较

用时：___分___秒 错误：　个

A组 常规口算题

129 −55 −29 =	2 ×188 ×50 =	300 ÷25 ÷4 =
480 +60 −80 =	7 ×22 ×5 =	135 −76 −24 =
15 +85 +199 =	400 −150 −50 =	270 ÷(9 ×6) =
58 ×6 ×5 =	4500 ÷25 ÷4 =	208 ×15 =
52 −36 +48 =	8 ×18 ×25 =	65 ×24 +35 ×24 =
62 +50 +88 =	4000 ÷125 ÷8 =	42 ÷7 ×15 =
800 −390 −210 =	53 ×29 +47 ×29 =	2000 ÷80 ÷5 =
2 ×96 ×5 =	99 ×21 =	31 +54 +69 +46 =
2400 ÷25 ÷6 =	74 ×25 −44 ×25 =	760 −380 −120 =
804 +56 +96 =	630 ÷(6 ×7) =	324 −(124 +57) =
639 −70 −339 =	5 ×67 ×20 =	103 ×12 =
97 ×50 −17 ×50 =	490 +220 +110 =	810 ÷27 ÷3 =
101 ×97 =	681 −145 −181 =	5600 ÷25 ÷4 =
366 +175 +134 =	125 ×16 ×25 =	69 ×77 +31 ×77 =
114 ×48 −48 ×14 =	93 +447 +207 =	486 −(186 +45) =
822 −267 −133 =	55 ×7 ×4 =	378 +432 +222 =

B组 变式口算题

1. 在◯里填上“ >”“ <”或“ =”。

8.2 ◯ 7.9　　0.22 ◯ 0.219　　1.601 ◯ 1.61

3.08 ◯ 30.8　　1.7 ◯ 1.700　　5.41 ◯ 5.14

2. 先在直线上用点表示下面各数，再比较每组中两个小数的大小。

0.08 ◯ 0.11　　0.2 ◯ 0.23　　0.03 ◯ 0.3



关注微信公众号“教辅资料站”获取更多学习资料

练习7 习题课

用时：___分___秒 错误： 个

A组 常规口算题

305 − 123 − 105 =	54 × 5 × 2 =	78 × 12 − 28 × 12 =
5900 ÷ 25 ÷ 4 =	412 + 230 + 88 =	60 × 11 × 5 =
101 × 35 =	700 − 229 − 171 =	4000 ÷ 16 ÷ 5 =
777 + 44 + 23 =	5 × 15 × 20 =	900 − 241 − 259 =
56 × 27 + 27 × 44 =	99 × 18 =	8 × 17 × 25 =
125 × 24 =	600 ÷ 25 ÷ 6 =	506 + 47 + 28 + 25 =
348 − 172 − 28 =	83 × 13 + 13 × 17 =	2 × 8 × 15 =
6000 ÷ 8 ÷ 125 =	350 + 410 + 190 =	440 ÷ (11 × 8) =
101 + 79 + 99 =	337 − 68 − 32 =	102 × 45 =
57 × 11 − 37 × 11 =	380 ÷ (19 × 4) =	2000 − 480 − 920 =
16 × 125 × 50 =	4 × 14 × 15 =	64 + 59 + 41 + 136 =
608 − 124 − 176 =	435 + 105 + 165 =	2 × 28 × 50 =
800 ÷ 25 ÷ 4 =	8 × 13 × 25 =	960 − 556 − 244 =
102 × 35 =	711 + 203 + 189 =	9000 ÷ 8 ÷ 125 =
71 × 22 + 22 × 29 =	544 − 236 − 144 =	12 × 13 × 5 =
1009 + 449 + 591 =	456 ÷ (8 × 3) =	136 × 16 − 16 × 36 =

B组 变式口算题

1. 连一连。

0.89　290　4.500　4　7.06　10.00

4.00　7.060　0.890　10　290.0　4.50

2. 将每组中的数按从小到大的顺序排列起来。

(1) 14　14.01　14.09　13.98　14.10

_____

(2) 0.9　0.909　0.099　0.99　0.009

_____

关注微信公众号“教辅资料站”获取更多学习资料

练习8 小数点移动引起小数大小的变化 用时：___分___秒 错误：　个

A组 常规口算题

7.7 + 9.6 =	5.4 × 100 =	26.8 ÷ 10 =
10.3 − 8.7 =	154.6 ÷ 1000 =	0.09 × 100 =
34.5 + 24.6 =	17.3 × 10 =	7.59 ÷ 100 =
6.2 − 4.9 =	0.71 × 100 =	131.7 ÷ 1000 =
5.4 + 9.8 =	66.4 ÷ 10 =	34.6 × 10 =
13.1 − 7.9 =	3.8 × 1000 =	54.6 ÷ 1000 =
4.9 + 10.1 =	0.1 ÷ 100 =	8.32 × 100 =
40.8 − 36.4 =	40 ÷ 1000 =	0.96 × 10 =
7.6 − 5.8 =	1.82 × 100 =	0.5 ÷ 100 =
20.9 − 15.5 =	86.7 ÷ 10 =	0.009 × 1000 =
8.1 − 4.4 =	15.3 × 100 =	90.2 ÷ 10 =
49.8 + 3.2 =	0.5 ÷ 10 =	4.05 × 100 =
71.3 − 58.4 =	0.089 × 100 =	6 ÷ 10 =
50.2 + 38.7 =	45.2 ÷ 1000 =	1.34 × 10 =

B组 变式口算题

1. 在○里填上“×”或“÷”，在□里填上合适的数。

0.568 ○ □ =56.8　　10.04 ○ □ =1.004　　2.17 ○ □ =2170

8.59 ○ □ =0.859　　4.04 ○ □ =4040　　0.375 ○ □ =0.0375

2. 填上适当的数。（根据小数点移动填数）

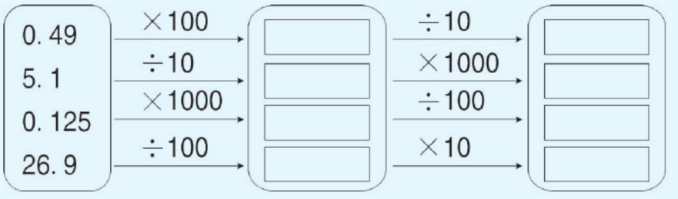

关注微信公众号“教辅资料站”获取更多学习资料

练习9 小数点移动引起小数大小的变化的应用

用时：____分____秒 错误：　个

A组 常规口算题

25.8 − 15.6 =	0.9 × 100 =	1.92 ÷ 10 =
6.4 + 3.6 =	7.1 ÷ 10 =	0.19 × 1000 =
4.2 − 2.4 =	25.4 × 100 =	428.9 ÷ 1000 =
51.8 + 5.6 =	8.9 ÷ 100 =	25.5 × 10 =
70.7 − 50.5 =	6.08 × 1000 =	46.8 ÷ 100 =
90.5 − 40 =	17.3 ÷ 10 =	0.86 × 100 =
4.8 + 20.6 =	30.9 × 100 =	81.98 ÷ 10 =
43.1 − 27.1 =	50.5 ÷ 100 =	3.8 × 1000 =
10.9 − 8.9 =	66.6 × 10 =	100.8 ÷ 100 =
5.9 + 13.4 =	80.6 ÷ 1000 =	0.506 × 10 =
34.9 − 12.5 =	0.054 × 100 =	37.8 ÷ 10 =
16.5 + 27.7 =	51 ÷ 1000 =	0.794 × 1000 =
61 − 48.7 =	2.365 × 100 =	1.5 ÷ 10 =
42.7 + 9.4 =	32.1 ÷ 1000 =	6.78 × 100 =
41.2 − 35.8 =	1.08 × 10 =	90.03 ÷ 100 =
21.2 + 18.9 =	0.006 × 1000 =	547 ÷ 1000 =

B组 变式口算题

1. 在括号里填上适当的数。

(1)把 5.01 的小数点向左移动一位是(　　)。

(2)把 0.604 的小数点向右移动一位是(　　)。

(3)(　　)扩大到它的 100 倍是 99。

(4)把 258.1 缩小到它的(　　)是 0.2581。

2. 我会做。

1648 kg = (　　)t　　5.2 m = (　　)dm　　1200 m = (　　)km

关注微信公众号“教辅资料站”获取更多学习资料

练习10 习题课

用时：___分___秒 错误：　个

A组 常规口算题

50.5 + 11 =	8.08 ÷ 10 =	4.5 × 100 =
0.9 − 0.1 =	0.13 × 1000 =	3.08 ÷ 10 =
7.9 − 7.1 =	40.28 ÷ 100 =	1.12 × 1000 =
12.3 − 2.3 =	3.08 × 10 =	0.1 ÷ 100 =
8.3 + 9.7 =	0.51 ÷ 10 =	0.609 × 1000 =
0.7 − 0.2 =	5.403 × 100 =	1.36 ÷ 10 =
5.7 + 5.8 =	6.21 ÷ 100 =	12.002 × 100 =
2.9 − 2.9 =	11.98 × 10 =	27.5 ÷ 10 =
4 − 3.5 =	8.01 ÷ 10 =	80.08 × 100 =
0.6 + 6.7 =	20.25 × 1000 =	69.08 ÷ 10 =
36.8 − 25.8 =	17.5 ÷ 1000 =	1.37 × 100 =
49.8 − 28 =	810 ÷ 100 =	7.06 × 10 =
71.3 − 58.7 =	0.056 × 1000 =	8.01 × 10 =
21.1 − 14.7 =	31.8 ÷ 100 =	0.7 × 1000 =
44.8 + 19.5 =	2.46 × 10 =	15.3 ÷ 100 =
21 + 9.6 =	18.9 ÷ 1000 =	5.42 × 100 =

B组 变式口算题

1. 填一填。

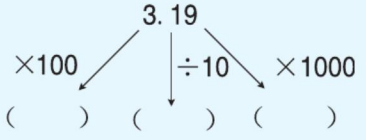

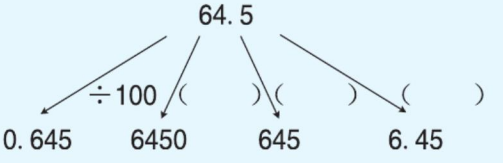

2. 我会做。

(1)1000 张纸摞起来的厚度是 92 mm，平均每张纸厚(　　) mm。

(2)1 t 花生可以榨油 400 kg，平均每千克花生可榨油(　　) kg。

(3)一袋奶粉重 0.75 kg，100 袋这样的奶粉重(　　) kg。

关注微信公众号“教辅资料站”获取更多学习资料

练习11 小数与单位换算（一）

用时：___分___秒　错误：　个

A组 常规口算题

2.5 × 10 =	3.67 ÷ 10 =	1340 g = (　　) kg
4.67 × 100 =	3.56 ÷ 100 =	23 dm = (　　) m
4.8 × 1000 =	7.89 ÷ 100 =	350 m = (　　) km
8.9 × 100 =	5.8 ÷ 10 =	98 cm = (　　) m
0.56 × 1000 =	23.6 ÷ 100 =	263 m = (　　) km
56.8 × 10 =	0.67 ÷ 10 =	86 dm^2 = (　　) m^2
80.09 × 100 =	68.04 ÷ 1000 =	890 g = (　　) kg
11.87 × 1000 =	3.45 ÷ 100 =	40 g = (　　) kg
34.9 × 10 =	89.9 ÷ 1000 =	1.34 dm = (　　) m
4.89 × 100 =	5.78 ÷ 10 =	45 kg = (　　) t
6.6 × 1000 =	901 ÷ 100 =	6.7 dm = (　　) cm
9.45 × 100 =	6.9 ÷ 100 =	6 cm^2 = (　　) dm^2
12.09 × 10 =	38.7 ÷ 1000 =	5 mm = (　　) cm
7.1 × 1000 =	9.5 ÷ 10 =	60 m = (　　) km
12.88 × 100 =	50 ÷ 100 =	80 dm^2 = (　　) m^2
0.018 × 1000 =	63.3 ÷ 1000 =	518 kg = (　　) t

B组 变式口算题

1. 填一填。

8 kg 40 g = (　　) kg	2 kg 250 g = (　　) kg	2 m 3 dm = (　　) m
5 km 250 m = (　　) km	6 t 50 kg = (　　) t	4 dm 7 cm = (　　) dm
5 m 20 cm = (　　) m	8 kg 30 g = (　　) kg	5 kg 90 g = (　　) kg

2. 把每组中的数量按从小到大的顺序排列起来。

(1) 5.9 kg　67 kg　7.8 t　680 g　7.08 t

_____

(2) 6.9 dm　78 dm　5.9 km　87 dm　0.89 m

_____

关注微信公众号“教辅资料站”获取更多学习资料

练习 12 小数与单位换算（二）

用时：___分___秒 错误：　个

A组 常规口算题

13.3 × 1000 =	34.6 ÷ 10 =	7.8 km = (　　) m
4.56 ÷ 10 =	5.9 × 1000 =	6.5 t = (　　) kg
3.9 × 100 =	0.56 ÷ 100 =	4.5 m^2 = (　　) dm^2
60.9 ÷ 100 =	4.67 × 1000 =	5.84 m = (　　) cm
45.87 × 1000 =	56.09 ÷ 100 =	7.9 dm = (　　) cm
6.3 ÷ 10 =	6.7 × 10 =	2.03 km = (　　) m
0.11 × 100 =	67.2 ÷ 1000 =	3.7 元 = (　　) 角
125 ÷ 1000 =	8.90 × 100 =	7.87 kg = (　　) g
0.45 × 100 =	56.8 ÷ 10 =	2.5 元 = (　　) 分
5.01 ÷ 10 =	5.93 × 1000 =	1.05 km = (　　) m
0.08 × 1000 =	9.9 ÷ 10 =	8.9 m = (　　) dm
1.23 ÷ 100 =	69.01 × 100 =	9.08 km = (　　) m
0.49 × 1000 =	55 ÷ 10 =	4.01 m^2 = (　　) dm^2
42.8 ÷ 10 =	0.19 × 1000 =	0.67 t = (　　) kg
61.24 × 100 =	18.3 ÷ 100 =	1.3 kg = (　　) g
6.73 ÷ 100 =	6.09 × 10 =	3.2 角 = (　　) 分

B组 变式口算题

1. 填一填。

2.3 m = (　　) m (　　) dm　　4.25 kg = (　　) kg (　　) g

3.5 元 = (　　) 元 (　　) 角　　5.009 t = (　　) t (　　) kg

6.08 m = (　　) m (　　) cm　　4.6 角 = (　　) 角 (　　) 分

2. 在◯里填上“ > ”“ < ”或“ = ”。

1.9 m ◯ 17 dm　　4.5 km ◯ 600 m　　890 kg ◯ 8.50 t

8.9 kg ◯ 890 g　　180 cm ◯ 1.3 m　　3.2 m^2 ◯ 320 dm^2

关注微信公众号“教辅资料站”获取更多学习资料

练习13 小数的近似数

用时：___分___秒 错误：　个

A组 常规口算题

1.23 × 100 =	2.07 ÷ 10 =	◆ 保留两位小数。
5.90 ÷ 10 =	0.9 × 1000 =	0.654 ≈
12.89 × 1000 =	23.4 ÷ 100 =	3.723 ≈
1.2 ÷ 100 =	3.72 × 1000 =	12.008 ≈
2.9 × 1000 =	2.39 ÷ 10 =	0.684 ≈
0.234 ÷ 10 =	11.90 × 100 =	1.0785 ≈
7.89 × 100 =	0.96 ÷ 10 =	8.445 ≈
78.09 ÷ 1000 =	14.65 × 1000 =	5.256 ≈
0.78 × 10 =	5.68 ÷ 10 =	17.016 ≈
78.90 ÷ 100 =	0.13 × 100 =	2.0987 ≈
16.73 × 1000 =	80.90 ÷ 1000 =	11.006 ≈
9.01 ÷ 10 =	34.09 × 100 =	0.526 ≈
5.86 × 100 =	19.64 ÷ 10 =	9.997 ≈
10.08 ÷ 1000 =	0.123 × 1000 =	13.098 ≈

B组 变式口算题

1. 按照要求写出表中小数的近似数。

	保留整数	保留一位小数	保留两位小数
8.865			
0.804			
4.876			

2. 下面的小数各在哪两个相邻的整数之间？

□ < 4.38 < □　　□ < 11.67 < □

□ < 6.04 < □　　□ < 0.92 < □

关注微信公众号“教辅资料站”获取更多学习资料

练习 14　较大数改写成用“万”或“亿”作单位的小数

用时：____分____秒　错误：　个

A组 常规口算题

2.3 + 6.7 =	6.5 − 1.2 =	1870000000 = (　　)亿
9.7 − 0.4 =	17.1 + 6.9 =	234000 = (　　)万
33.2 + 19.1 =	55.4 − 23.6 =	328700 = (　　)万
17.8 − 0.2 =	6.9 + 2.4 =	240000000 = (　　)亿
3.2 + 8.9 =	34.5 − 9.8 =	320000000 = (　　)亿
13.6 − 4.6 =	9.8 + 4.2 =	35990 = (　　)万
23.4 + 5.5 =	41.2 − 15.6 =	36000 = (　　)万
57.9 − 17.9 =	7.1 + 14.5 =	7890000000 = (　　)亿
9.1 + 11.3 =	0.8 − 0.5 =	12000000 = (　　)亿
17.9 − 9.6 =	21.3 + 17.7 =	179000 = (　　)万
8.4 + 7.2 =	5.4 − 2.9 =	560000000 = (　　)亿
16.5 − 6.3 =	72.1 + 9.5 =	345000 = (　　)万
40 − 18.9 =	12.8 + 23.1 =	120400000 = (　　)亿
42.4 + 16.6 =	30.7 − 19.8 =	67100 = (　　)万
30.6 − 13.3 =	25.7 + 19.8 =	370890000 = (　　)亿

B组 变式口算题

1. 改写成用“万”或“亿”作单位的小数，保留两位小数。

112315000 ≈ (　　)亿　　145630 ≈ (　　)万

345621000 ≈ (　　)亿　　89210 ≈ (　　)万

3282415000 ≈ (　　)亿　　673450 ≈ (　　)万

2. 下面的说法正确吗？正确的画“√”，错误的画“×”。

(1)6.95 精确到十分位是 7。　(　　)

(2)7.06 和 7.0688 保留一位小数都是 7.1。　(　　)

关注微信公众号“教辅资料站”获取更多学习资料

练习15 习题课

用时：___分___秒　错误：　个

A组 常规口算题

◆ 保留两位小数。

8.976≈

0.809≈

11.909≈

6.486≈

7.967≈

3.7609≈

0.899≈

9.0847≈

1.056≈

17.008≈

1.997≈

50.095≈

98.104≈

◆ 比较大小。

6.400 ◯ 6.4

4.789 ◯ 4.788

0.51 ◯ 0.509

870 cm ◯ 8.70 m

60 g ◯ 0.6 kg

10.47 cm^2 ◯ 10.46 cm^2

9.400 ◯ 9.4

8.913 ◯ 8.914

0.52 ◯ 0.520

34 dm ◯ 3.4 cm

3 t ◯ 300 kg

1.32 m ◯ 13.2 cm

0.89 kg = (　　) g

3.9 t = (　　) kg

34 dm = (　　) m

1460 g = (　　) kg

5.02 km = (　　) m

6.3 kg = (　　) g

0.89 m = (　　) cm

1.53 km = (　　) m

65 角 = (　　) 元

8.5 t = (　　) kg

3 dm = (　　) m

350 g = (　　) kg

608 dm^2 = (　　) m^2

0.25 km = (　　) m

B组 变式口算题

1. 2.67 km = (　　) m　　8.9 t = (　　) kg

0.98 m^2 = (　　) dm^2　　8.45 kg = (　　) kg (　　) g

2. 把0.56的小数点向右移动两位变成(　　)，是原数的(　　)倍。

3. 把7.9的小数点去掉，就扩大到原数的(　　)倍。

4. 一个数的十位和百分位上都是8，个位和十分位上都是0，这个数写作(　　)，读作(　　)。

关注微信公众号“教辅资料站”获取更多学习资料

第4单元口算能力测试

用时：___分___秒　错误：　个

A组 常规口算题

3.4 + 2.3 =	7.9 × 100 =	67.9 × 100 =
6.7 − 2.3 =	12.4 ÷ 10 =	21.3 ÷ 1000 =
23.5 + 3.4 =	9.4 ÷ 100 =	1.23 × 10 =
7.6 − 2.3 =	11.9 × 1000 =	13.2 ÷ 100 =
12.6 + 2.2 =	7.45 × 10 =	32.4 × 1000 =
6.5 − 2.1 =	13.6 ÷ 1000 =	2.34 ÷ 100 =
76.2 − 6.2 =	43.6 ÷ 10 =	1.89 × 10 =
19.8 + 0.1 =	8.3 × 10 =	19.4 ÷ 1000 =
9.5 + 0.3 =	567.8 ÷ 100 =	8.23 × 100 =
15.3 + 3.4 =	0.061 × 1000 =	56.9 ÷ 10 =
79.5 + 0.2 =	18.82 ÷ 10 =	2.45 × 100 =
6.5 + 3.2 =	5.079 × 100 =	79.2 ÷ 1000 =
62.4 + 3.5 =	100.9 ÷ 1000 =	0.023 × 1000 =
80.2 − 20 =	69.7 ÷ 100 =	50 ÷ 1000 =
42.5 + 20.1 =	0.19 × 1000 =	4.503 ÷ 10 =
21.6 − 11.6 =	3.15 × 100 =	19.6 × 100 =

B组 变式口算题

1. 下面的小数各在哪两个相邻的一位小数之间？

（　　）< 5.67 <（　　）　（　　）< 7.342 <（　　）

（　　）< 2.342 <（　　）　（　　）< 1.456 <（　　）

2. 在◯里填上“ > ”“ < ”或“ = ”。

0.567 × 100 ◯ 567 ÷ 10　　23.4 × 1000 ◯ 23400 ÷ 10

5.78 × 10 ◯ 578 ÷ 100　　67800 ÷ 100 ◯ 678 × 100

关注微信公众号“教辅资料站”获取更多学习资料

难易等级：

练习1 三角形的特性

用时：____分____秒　错误：　个

A组 常规口算题

39 + 256 =	679 − 237 =	7896 − 230 =
876 − 345 =	99 + 121 =	4567 + 2300 =
45 + 781 =	867 − 289 =	2367 − 667 =
349 − 256 =	278 + 89 =	4500 + 4500 =
679 + 67 =	654 − 234 =	1230 − 234 =
878 − 245 =	65 + 197 =	2314 + 2123 =
90 + 671 =	800 − 245 =	3289 − 145 =
765 − 123 =	65 + 540 =	4231 + 2345 =
69 + 523 =	876 − 265 =	5670 − 4500 =
631 − 230 =	903 + 45 =	6212 + 230 =
346 + 29 =	654 − 223 =	5600 − 600 =
901 − 267 =	23 + 924 =	7800 + 1000 =
786 + 24 =	563 − 234 =	7230 − 3421 =
567 − 230 =	213 + 45 =	6400 + 2156 =
870 + 231 =	421 − 43 =	4500 − 2145 =
645 − 213 =	675 + 219 =	5600 − 3400 =

B组 变式口算题

1. 写出下面每个三角形各部分的名称，并各画出一条高。

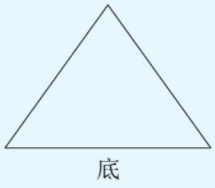

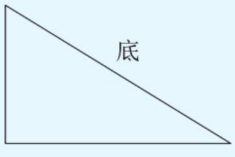

2. 说一说生活中哪些地方应用了三角形的稳定性。

关注微信公众号“教辅资料站”获取更多学习资料

练习2 三角形的三边关系

用时：___分___秒 错误：　个

A组 常规口算题

145 × 6 =	58 × 5 =	651 × 2 =
155 ÷ 5 =	670 × 4 =	650 ÷ 2 =
45 × 30 =	920 ÷ 2 =	340 × 3 =
720 ÷ 80 =	78 × 20 =	800 ÷ 40 =
640 ÷ 20 =	690 ÷ 3 =	98 × 50 =
701 × 50 =	325 ÷ 5 =	600 ÷ 30 =
23 × 8 =	602 × 70 =	803 × 90 =
67 × 7 =	620 × 7 =	340 ÷ 5 =
75 × 80 =	65 ÷ 5 =	240 ÷ 30 =
200 ÷ 50 =	13 × 400 =	509 × 20 =
810 ÷ 90 =	56 × 50 =	41 × 30 =
123 ÷ 3 =	560 ÷ 80 =	355 ÷ 5 =
144 ÷ 2 =	245 ÷ 5 =	670 ÷ 2 =
370 ÷ 2 =	210 ÷ 30 =	560 ÷ 70 =

B组 变式口算题

◆ 下表中哪组的三条线段能围成三角形？能的在下面的括号里画“√”，不能的画“×”。（单位：厘米）

第一组	第二组	第三组	第四组
20	50	7	18
20	60	14	7
20	70	26	25
（　）	（　）	（　）	（　）

关注微信公众号“教辅资料站”获取更多学习资料

练习3 三角形的分类

用时：___分___秒 错误：　个

A组 常规口算题

83 × 101 =	64 + 25 + 37 + 75 + 36 =	79 + 8 + 21 =
89 + 66 + 34 =	17 × 125 × 8 =	31 × 2 × 5 =
542 − 124 − 76 =	45 + 55 − 45 + 55 =	4 × 13 × 25 =
108 × 25 =	350 + 285 + 215 + 650 =	44 × 25 =
8 × 65 − 8 × 35 =	56 × 53 + 56 × 47 =	85 − 27 − 53 =
240 ÷ 5 ÷ 6 =	540 ÷ 45 ÷ 2 =	25 × 24 =
360 ÷ 5 ÷ 4 =	16 × 25 =	102 × 34 =
102 × 15 =	4 × 19 × 25 =	25 × 48 =
280 ÷ 5 ÷ 8 =	56 × 69 + 56 × 31 =	25 × 4 + 8 =
435 − 55 − 145 =	4 × 25 × 59 =	101 × 28 =
2 × 74 × 5 =	67 × 25 × 4 =	34 × 4 × 5 =
47 + 59 + 53 =	85 × 99 + 85 =	89 × 2 × 5 =
450 ÷ 2 ÷ 5 =	210 ÷ 14 ÷ 5 =	90 ÷ 2 ÷ 5 =
230 − 68 − 32 =	765 − 345 − 55 =	23 − 8 − 2 =
450 ÷ 18 ÷ 5 =	6500 ÷ 25 ÷ 4 =	240 ÷ 5 ÷ 4 =
679 − 345 − 155 =	678 − 270 − 130 =	56 + 48 + 52 =

B组 变式口算题

◆ 连一连。

最大的角是直角	锐角三角形
有两个角相等	直角三角形
三个角都是 60°	等边三角形
没有直角和钝角	等腰三角形

关注微信公众号“教辅资料站”获取更多学习资料

练习4 三角形的内角和（一）

用时：___分___秒 错误：　个

A组 常规口算题

69 + 8 + 31 =	34 + 35 + 65 + 66 =	450 + 365 + 550 =
39 × 2 × 5 =	67 × 125 × 8 =	67 + 64 + 36 =
4 × 45 × 25 =	25 + 45 − 25 + 55 =	542 − 154 − 246 =
36 × 25 =	76 × 101 =	101 × 25 =
100 − 27 − 73 =	43 × 33 + 43 × 67 =	6 × 55 − 6 × 45 =
25 × 28 =	560 ÷ 35 ÷ 2 =	240 ÷ 8 ÷ 3 =
102 × 36 =	16 × 25 =	360 ÷ 2 ÷ 5 =
25 × 8 × 30 =	4 × 21 × 25 =	54 × 69 + 54 × 31 =
25 × 4 × 23 =	102 − 28 − 72 =	210 ÷ 14 ÷ 5 =
101 × 67 =	4 × 25 × 76 =	445 − 45 − 155 =
34 × 4 × 5 =	52 × 25 × 4 =	2 × 74 × 5 =
89 × 2 × 5 =	86 × 99 + 86 =	37 + 59 + 63 =
210 ÷ 2 ÷ 5 =	210 ÷ 7 ÷ 5 =	340 ÷ 2 ÷ 5 =
450 ÷ 9 ÷ 5 =	765 − 345 − 55 =	230 + 68 + 32 =
48 × 125 =	43 × 99 + 43 =	900 ÷ 25 ÷ 4 =
64 × 25 × 4 =	151 + 216 − 51 =	660 − 146 − 254 =

B组 变式口算题

1. 根据三角形已知两个角的度数，算出第三个角的度数。

在△ABC 中，(1) 已知∠A = 70°，∠B = 30°，那么∠C 为(　　)。

(2) 已知∠A 为直角，∠C = 30°，那么∠B 为(　　)。

(3) 已知等腰三角形一个底角为 50°，那么它的顶角为(　　)。

2. 一个等腰三角形，已知它的一个顶角为 120 °，它的一个底角为(　　)。

关注微信公众号“教辅资料站”获取更多学习资料

练习5 三角形的内角和（二）

用时：___分___秒 错误：　个

A组 常规口算题

711 + 109 + 89 =	182 − 27 − 41 − 32 =	25 × 11 × 8 =
270 ÷ 15 ÷ 6 =	810 ÷ 54 =	518 − (118 + 99) =
6 × 47 × 5 =	309 + 211 + 191 =	400 ÷ 16 ÷ 5 =
1000 − 550 − 450 =	15 × 21 × 4 =	441 + 123 + 159 =
420 ÷ 28 =	344 − 157 + 56 =	106 × 45 =
67 × 19 + 33 × 19 =	99 × 58 + 58 =	560 ÷ 16 ÷ 5 =
753 + 109 + 147 =	5600 − 1820 − 1180 =	112 × 31 − 12 × 31 =
876 − (230 + 276) =	420 ÷ 35 ÷ 2 =	125 × 21 × 4 =
178 + 64 + 22 + 236 =	101 × 69 − 69 =	956 + 152 − 456 =
12 × 29 × 5 =	3000 ÷ 8 ÷ 125 =	560 ÷ 35 =
339 − 197 + 161 =	154 × 39 − 54 × 39 =	119 + 221 + 181 =
3785 − (785 + 1200) =	3900 ÷ 25 ÷ 4 =	700 − 346 − 254 =
420 ÷ (7 × 15) =	568 + 109 + 232 =	15 × 41 × 6 =
979 − 284 − 216 =	25 × 99 × 2 =	900 ÷ 15 ÷ 6 =
88 × 40 + 12 × 40 =	1953 − (422 + 953) =	2 × 76 × 5 =

B组 变式口算题

1. 算出下面三角形中未知角的度数。

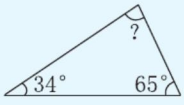

(　　)

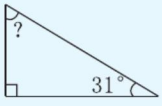

(　　)

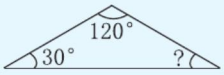

(　　)

2. 下面的四边形的内角和是(　　)。

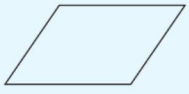

3. 一个等腰三角形，它的一个底角是40°，那么，它的顶角是(　　)。

关注微信公众号“教辅资料站”获取更多学习资料

第5单元口算能力测试

用时：___分___秒　错误：　个

A组 常规口算题

89 + 12 + 18 =	141 + 38 + 59 + 62 =	48 × 25 =
85 × 43 + 85 × 57 =	106 × 25 =	101 × 83 =
88 × 27 + 27 × 12 =	25 × 52 =	8 × 75 − 8 × 35 =
15 × 23 + 17 × 15 =	78 × 101 =	47 × 6 + 53 × 6 =
425 − 49 − 11 − 40 =	642 − 120 + 58 =	562 − 123 − 77 =
35 + 65 − 35 + 65 =	360 ÷ 8 ÷ 5 =	540 ÷ 45 ÷ 2 =
12 × 25 =	800 ÷ 25 ÷ 4 =	27 × 25 + 13 × 25 =
85 × 99 + 85 =	34 × 102 =	125 × 16 =
360 ÷ 5 ÷ 4 =	99 × 78 + 78 =	32 × 4 × 25 × 3 =
164 × 24 + 36 × 24 =	643 − 354 − 146 =	38 + 26 + 74 =
38 × 99 + 38 =	489 − (189 + 125) =	66 + 28 + 34 =
73 × 101 =	130 + 37 + 70 =	53 × 25 × 8 =
900 ÷ 36 =	188 − 55 − 45 =	720 ÷ (9 × 16) =
567 − (212 + 167) =	540 ÷ 45 =	132 × 42 − 42 × 32 =
385 − 197 + 115 =	5 × 17 × 18 =	696 + 178 − 369 =

B组 变式口算题

1. 算出∠1的度数。

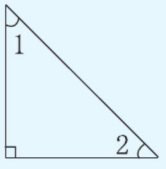

∠2 = 45°

∠1 = (　　)

2. 下图中一共有(　　)个三角形。

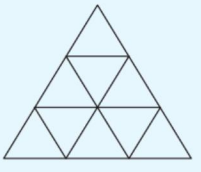

3. 判断。

(1) 等腰三角形一定是锐角三角形。(　　)

(2) 一个三角形的内角和是180°，如果把这个三角形分成两个三角形，那么每个三角形的内角和是90°。(　　)

(3) 直角三角形和钝角三角形都只有一条高。(　　)

(4) 一个三角形是钝角三角形，也可能是等腰三角形。(　　)

关注微信公众号“教辅资料站”获取更多学习资料

难易等级：

练习1 小数加减法（一）

用时：____分____秒　错误：　个

A组 常规口算题

29 + 4.5 =	23 − 4.5 =	6.9 − 2.3 =
45 − 10.4 =	16 + 6.4 =	7.9 + 6.9 =
18.9 + 6.4 =	43 − 9.6 =	53 − 23.6 =
9.8 − 3.4 =	78.9 + 11.1 =	13.4 + 11.6 =
19.8 + 6.5 =	2.8 − 1.6 =	16.8 − 2.6 =
32 − 23.9 =	14.6 + 6.7 =	19 + 102.2 =
24 + 11.3 =	18 − 7.4 =	17 − 13.2 =
4.5 − 2.3 =	98.7 + 23.2 =	11.9 + 7.5 =
12.3 + 0.3 =	13.6 − 4.9 =	27.4 − 13.7 =
61 − 60.5 =	26 + 73.2 =	32.1 + 43.1 =
25 + 11.7 =	35 − 3.5 =	25 − 2.9 =
113.4 − 13.4 =	42 + 7.4 =	9.1 + 11.4 =
11.8 + 9.7 =	23.3 − 14.4 =	51 − 4.9 =
41.2 − 25.6 =	19.3 + 71.9 =	6.5 + 9.7 =
4.2 − 1.7 =	19.6 + 5.4 =	39.3 + 3.9 =

B组 变式口算题

1. 在□里填上合适的数。

$$\begin{array}{r} 8.98 \\ +\square.01 \\ \hline 9.99 \end{array} \qquad \begin{array}{r} \square 8.79 \\ -3\square.6\square \\ \hline 32.10 \end{array} \qquad \begin{array}{r} 167.98 \\ -1\square2.4\square \\ \hline 355.2 \end{array}$$

2. 我会做。

12.45 + (　　) = 26.98　　16.8 − (　　) = 4.5　　32.1 + (　　) = 38

43 − (　　) = 34.2　　(　　) + 20.23 = 45　　(　　) + 4.5 = 17.9

关注微信公众号“教辅资料站”获取更多学习资料

练习2 小数加减法（二）

用时：___分___秒 错误：　个

A组 常规口算题

5.6 + 2.7 =	41.2 − 15.6 =	68 − 65.9 =
9.4 − 1.5 =	18.9 + 3 =	56 + 23.1 =
5.6 + 4.5 =	11.6 − 7.3 =	6.5 − 3.4 =
4.7 − 1.3 =	8.2 + 3.5 =	62 + 17.7 =
77 + 3.7 =	41 − 18.6 =	0.7 − 0.2 =
2.8 − 2.7 =	21.3 + 6.7 =	123.6 + 65.4 =
25 + 2.8 =	80 − 79.8 =	70 − 23.8 =
9.5 − 5 =	1.3 + 8.9 =	87.9 + 21.4 =
11.7 + 2 =	9.8 − 6.2 =	65.7 − 34.9 =
2.5 − 0.9 =	14.5 + 5.7 =	9.4 + 1.2 =
8.6 + 5.3 =	9.9 − 4.4 =	9.8 − 2.3 =
87 − 19.8 =	9.6 + 3.3 =	340.8 + 11.1 =
20.9 − 17.6 =	5.3 + 9.6 =	52.1 − 38.4 =
8.5 + 9.7 =	12 − 2.4 =	31.5 + 6.9 =
3.8 + 30.8 =	7.4 − 4.9 =	12.1 − 7.7 =

B组 变式口算题

◆ 计算下面各题并验算。

0.51 − 0.16 =

13.98 + 4.07 =

12.34 + 1.68 =

78 − 18.99 =

关注微信公众号“教辅资料站”获取更多学习资料

练习3 习题课

用时：___分___秒 错误：　个

A组 常规口算题

3.7 + 2.2 =	8.1 + 1.6 =	16.8 − 4.5 =
5.9 − 4.5 =	8.4 − 4.3 =	8.6 + 2.2 =
6.5 + 4.3 =	0.36 + 0.62 =	21.8 − 11.3 =
7.9 − 0.6 =	9.6 − 5.1 =	13.4 + 2.5 =
0.5 + 7.3 =	0.8 + 9.1 =	53.3 − 2.3 =
10.9 − 6.4 =	0.89 − 0.71 =	40.5 + 4.3 =
18.65 + 10.01 =	4.2 + 5.6 =	5.89 − 4.21 =
8.3 − 1.3 =	89.56 + 10.23 =	6.8 − 2.4 =
4.3 + 2.6 =	2.1 + 4.5 =	9.78 − 3.23 =
9.67 − 7.23 =	16.7 − 13.6 =	9.56 + 2.31 =
6.5 + 3.4 =	6.67 − 5.34 =	11.4 − 4.3 =
11.45 − 4.23 =	138.4 + 21.4 =	4.12 + 2.12 =
9.15 + 6.23 =	13.58 − 4.42 =	33.5 + 44.9 =
14.5 − 9.7 =	5.2 + 8.4 =	10.97 − 6.83 =
11.22 + 8.73 =	3.54 − 1.29 =	81.6 + 5.7 =
4.1 − 1.9 =	16.7 + 8.3 =	45.45 − 12.33 =

B组 变式口算题

1. 找规律填数。

(1)6.463，6.466，6.469，6.472，_____，_____。

(2)0.1，0.3，0.5，0.7，_____，_____。

(3)2.12，2.17，2.22，2.27，_____，_____。

(4)8.667，8.665，8.663，8.661，_____，_____。

2. 我会做。

3元2角8分 + 4元5角5分 = (　　)元　　2 t 30 kg − 560 kg = (　　)t

4 m 20 cm + 6 m 90 cm = (　　)m　　5 km − 2 km 840 m = (　　)km

关注微信公众号“教辅资料站”获取更多学习资料

练习4 小数加减混合运算

用时：___分___秒 错误：　个

A组 常规口算题

8.9 + 1.7 =	17.87 − 11.45 =	20 + 1.5 + 2.5 =
2.8 − 2.1 =	4.67 + 5.45 =	4.65 − 1.65 + 6 =
4.9 + 5.6 =	32.6 − 22.3 =	23.78 + 42 − 13.78 =
5.9 − 2.1 =	108.6 + 21.3 =	11.23 − 10.23 + 45.2 =
8.7 + 4.2 =	34.34 − 21.21 =	9.89 + 12 − 6.89 =
11.56 − 2.34 =	7.34 + 3.13 =	32.8 + 6.9 − 6.9 =
23.89 + 12.32 =	90.89 − 34.11 =	15.5 − 6.4 + 4.5 =
6.45 − 2.31 =	3.2 + 5.9 =	21 − 4.95 + 4.95 =
112.3 + 2.4 =	6.01 − 2.12 =	4.85 − 1.85 + 6.03 =
34.5 − 21.3 =	11.09 + 56.87 =	43 + 2.5 + 1.5 =
118.9 + 11.1 =	9.78 − 4.59 =	11 + 22.5 + 0.5 =
43.7 − 3.7 =	9.5 + 2.4 =	44.7 + 5.3 − 10 =
18.26 + 9.34 =	10.9 − 4.55 =	9.3 − 4.3 + 15.86 =
41.2 − 35.5 =	6.47 + 9.38 =	28.73 + 1.46 + 8.27 =
54.61 + 1.83 =	20.43 − 16.4 =	8.42 + 5.31 − 6.7 =
60 − 45.9 =	16.74 + 3.95 =	2.93 + 7.7 − 4.1 =

B组 变式口算题

◆ 歌手比赛。

歌手序号	声乐得分/分	器乐得分/分	专业素养得分/分	总分/分
1号	8.95	7.15	0.98	
2号	8.84	7.44	0.87	
3号	8.9	7.32	0.88	

关注微信公众号“教辅资料站”获取更多学习资料

练习5 习题课

用时：___分___秒 错误： 个

A组 常规口算题

2.7 + 1.5 =	3 − 1.6 =	20 + 1.67 + 2.33 =
6.5 − 2.5 =	0.73 + 0.5 =	23.5 + 11.2 + 6.5 =
2.5 + 2.5 =	12.5 − 3.8 =	8.97 + 0.03 + 11.3 =
6.4 − 3.6 =	7 + 12.7 =	23.56 + 2.2 − 2.2 =
1.8 + 4.9 =	60.56 − 23.56 =	23.7 − 13.7 + 11.1 =
8.9 − 4.7 =	12.45 + 11.45 =	45.7 − 25.7 + 56.2 =
4.7 + 6.9 =	9.78 − 3.56 =	11.2 + 8.8 − 10 =
13.34 − 8.98 =	11.65 + 0.78 =	56 + 23.2 − 13.2 =
0.89 − 0.67 =	85.6 − 20.7 =	11.1 − 1.1 + 23 =
6.78 + 4.67 =	13.3 + 7.7 =	89.8 − 69.8 + 12 =
11.34 − 7.11 =	5.67 − 0.67 =	12.1 − 2.1 + 18 =
21.5 + 6.7 =	2.78 + 5.8 =	10.3 + 2 − 10.3 =
25 − 11.75 =	9.32 + 8.32 =	3.9 + 4.6 + 6 =
13.11 − 12.16 =	2.85 + 2.11 =	7.89 + 14.31 − 21.2 =
4.86 + 3.14 =	5.5 − 4.31 =	10 − 9.36 + 1.73 =
20.98 − 5.49 =	3.96 + 2.91 =	18.46 + 12.34 − 2.16 =

B组 变式口算题

1. 一支钢笔15.5元，比一个文具盒便宜1元，买一支钢笔和一个文具盒共需要（　　）元。

2. 买一个日记本和一块橡皮一共用10.3元，一个日记本6.8元，一块橡皮（　　）元。

3. 一个鸡蛋重0.05 kg，比一个鸽子蛋重0.03 kg，一个鸡蛋和一个鸽子蛋的总质量为（　　）kg。

关注微信公众号“教辅资料站”获取更多学习资料

练习6 整数加法运算定律推广到小数

用时：___分___秒 错误：　个

A组 常规口算题

2.73 + 9.68 + 7.27 =	19.8 − 7.6 − 2.4 =	57.8 − 0.2 − 12.8 =
5.67 + 14.04 + 5.96 =	20 − 6.4 − 3.6 =	12.45 + 0.55 − 2.1 =
3.54 + 0.67 + 1.46 =	23.4 + 6.6 + 2 =	98.7 − 7.8 − 2.2 =
0.13 + 6.81 + 0.19 =	9.77 + 2.1 − 2.77 =	3.4 + 1.1 + 6.6 =
10.03 − 2.4 − 6.6 =	5.68 + 8.5 + 5.32 =	0.04 + 4.5 + 0.06 =
3.82 + 7.3 + 2.18 =	7.5 + 4.8 − 5.5 =	6.8 − 4.3 − 0.7 =
2.9 + 3.7 + 2.1 + 5.3 =	8.9 + 2.2 + 1.1 =	6.78 + 2.3 + 1.22 =
8.44 + 2.3 − 6.44 =	1.66 + 2.3 + 7.7 =	5.67 − 1.8 − 2.2 =
6.4 − 1.6 − 3.4 =	7.98 − 2.8 − 3.2 =	4.3 + 1.4 + 5.7 =
19.85 + 3.8 − 9.85 =	6.02 − 3.5 + 0.98 =	7.98 + 0.02 − 2.4 =
87.9 − 7.9 − 9.7 =	11.97 − 4 + 0.03 =	6.78 − 2.1 − 0.9 =
11.5 + 7.15 + 4.85 =	8.9 − 7.9 + 1.1 =	6.34 + 2.1 + 9.9 =
13.58 − 4.47 − 2.53 =	13.98 + 7.7 + 9.02 =	25 − 13.2 − 10.8 =
7.14 + 6.58 − 4.14 =	3.86 − 1.92 + 1.14 =	2.6 + 13.5 + 5.5 =
50.9 − 45.45 + 2.3 =	16.79 − 2.32 − 4.68 =	5.14 + 9.9 − 7.7 =
45.6 + 7.3 − 24.4 =	13.72 + 3.13 + 2.28 =	10 − 4.44 − 3.56 =

B组 变式口算题

1. 把得数相等的两个式子连起来。

5.7 + 4.95 + 3.3	88.2 − 8.2 + 58
(2.38 + 2.75) + 1.25	5.7 − (0.81 + 1.29)
5.7 − 0.81 − 1.29	2.38 + (2.75 + 1.25)
88.2 + 58 − 8.2	5.7 + 3.3 + 4.95

2. 把分数改写成小数再计算。

$\frac{93}{100}-\frac{76}{100}=$（　　）−（　　）=（　　）

$\frac{4}{10}+\frac{6}{10}-\frac{46}{100}=$（　　）+（　　）−（　　）=（　　）

关注微信公众号“教辅资料站”获取更多学习资料

第6单元口算能力测试

用时：___分___秒　错误：　个

A组 常规口算题

30 + 8.2 =	68 − 6.8 =	4.5 + 6.4 + 5.5 =
23 − 6.2 =	12 + 2.3 =	9.8 − 6.2 + 2.1 =
12.8 + 0.2 =	20 − 9.07 =	2.3 + 2.1 − 2.1 =
12.56 − 5.5 =	6.9 + 1.1 =	6.56 − 2.13 + 0.44 =
13.78 + 11.22 =	32.11 + 22.22 =	4.12 + 5.1 − 2.2 =
10 − 8.8 =	90.11 − 21.1 =	2.67 − 2.3 + 1.1 =
20 + 2.2 =	90.4 + 6.6 =	7.65 + 0.2 − 6.65 =
11.1 − 10.1 =	43.21 − 3.21 =	0.08 + 0.45 − 0.08 =
23.23 + 11.77 =	0.09 + 2.21 =	2.3 − 1.1 + 4.2 =
12.23 − 0.2 =	4.5 − 3.5 =	7.89 + 2.1 − 2.89 =
5.09 + 0.11 =	3.21 + 3.8 =	4.2 + 1.1 + 2.8 + 2.9 =
1.12 − 0.12 =	12.67 − 8.90 =	6.8 + 2.1 + 4.2 + 3.9 =
7.88 + 4.52 =	7.1 − 2.33 =	17.6 + 8.24 + 4.4 =
15.3 − 4.07 =	16.57 + 8.96 =	78 − 9.62 − 8.38 =
19.5 + 24.7 =	90.87 − 45.63 =	17.5 − 9.2 + 7.8 =

B组 变式口算题

1. 填空。

(　　) + 8.7 = 10　　78.67 − (　　) = 60

0.28 + (　　) = 0.54　　7.12 + (　　) = 10.23

11.1 + (　　) = 22.2　　1.4 + (　　) = 5.9

2. 比一比。

3.4 + 5.8 ◯ 9.8 − 1.2　　6.74 − 5.52 ◯ 1.1 + 0.45

2.16 − 1.12 ◯ 3 − 2.2　　6.12 + 1.13 ◯ 5.46 + 2.23

关注微信公众号“教辅资料站”获取更多学习资料

第7单元 图形的运动（二）

练习1 轴对称

用时：___分___秒　错误：　个

A组 常规口算题

4.55 +0.65 =	7.88 −3.43 =	1.34 +2.10 =
90.08 −70.27 =	0.72 +0.58 =	5.64 −3.44 =
2.85 +6.2 =	7.89 −6.43 =	41.08 +4.29 =
6 −4.61 =	2.9 +3.59 =	7.05 −3.8 =
3.25 +7.5 =	20 −0.68 =	4.14 +5.56 =
3.81 −1.49 =	51 +1.42 =	5.7 −3.64 =
3.81 +22.2 =	95.69 −45.69 =	5.5 +8.8 =
77 −44.4 =	10.5 +87.65 =	9.7 −6.1 =
8.21 +7.19 =	11.46 −8.21 =	9.64 +4.08 =
3.01 −0.55 =	4.11 +3.68 =	6.05 −2.40 =
40.08 +3.45 =	8.76 −1.66 =	24.5 +2.45 =
38.7 −4.6 =	54.5 +25.5 =	4.91 −4.4 =
35.6 −23.1 =	2.44 +19.54 =	12.39 −9.18 =
27.14 +8.66 =	5.1 −3.27 =	10.84 −4.88 =

B组 变式口算题

1. 画出下面图形的对称轴。

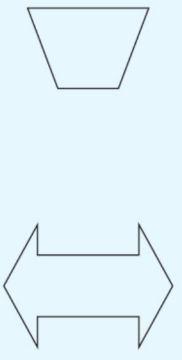

2. 画出下面这个轴对称图形的另一半。

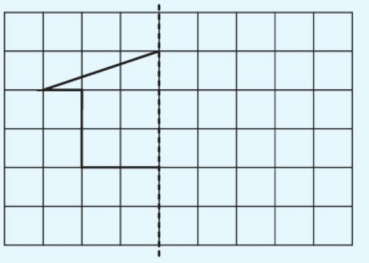

关注微信公众号“教辅资料站”获取更多学习资料

练习2 平移（一）

用时：___分___秒 错误：　个

A组 常规口算题

10 −5.1 =	41.24 +2.8 =	9.86 −5.36 =
0.96 +5.4 =	6.97 −4.32 =	0.75 +1.2 =
5.2 −0.44 =	12.4 +0.9 =	8.09 −2.5 =
0.39 +6 =	8 −0.8 =	20.45 +31.41 =
15.7 −6.9 =	0.48 +3.9 =	50 −5.5 =
12 +12.38 =	7.69 −4.6 =	4.73 +11.2 =
50.9 +5.9 =	16.7 −4.7 =	30.1 +8.9 =
54.8 −33.6 =	44 +4.81 =	98.79 −56.32 =
5.7 +7.5 =	30 −10.8 =	0.69 +1.83 =
60.58 −25.58 =	19.4 +5.9 =	71.71 −41.14 =
30.2 +4 =	38.9 −12.8 =	7.03 +0.7 =
50 −0.75 =	18.64 +7.36 =	25.1 −13.8 =
32.14 +15.48 =	4.5 +19.9 =	26.74 −15.53 =
9.06 +12.39 =	8.1 −2.44 =	41.12 +8.72 =
8.76 −4.52 =	13.42 +6.24 =	89.9 −72.4 =
25.76 +19.11 =	47.88 −15.46 =	43.57 +24.6 =

B组 变式口算题

◆ 画出平移后的图形。

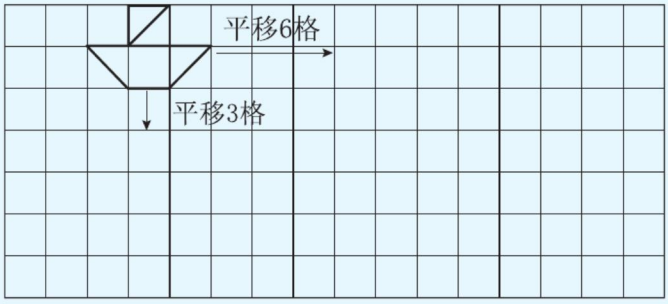

关注微信公众号“教辅资料站”获取更多学习资料

练习3 平移（二）

用时：___分___秒 错误：　个

A组 常规口算题

0.8 +1.7 =	5.4 −3.2 =	18.94 −6.9 =
9.9 −4.55 =	3 +0.67 =	2.18 +7.14 =
6.7 +4.88 =	13.83 −5.51 =	5.09 +14.2 =
0.71 −0.59 =	1.09 +3.58 =	5 −1.95 =
18.2 +32.04 =	10.7 −7.7 =	30.3 +50.5 =
42.4 −18 =	0.47 +3.98 =	0.1 −0.01 =
0.86 +0.6 =	11.1 −9.9 =	34.91 −20.8 =
4.82 −1.74 =	0.7 +20.7 =	100 +50.9 =
20 −18.3 =	41.08 −35 =	4.71 +7.14 =
11.04 −10.2 =	8.2 −8.02 =	5.16 +11.13 =
0.13 −0.05 =	69.8 +7.2 =	31.79 −26.09 =
8.67 −4.58 =	13.45 +9.86 =	76.4 −63.8 =
17.6 +9.8 =	27.42 −18.22 =	3.09 +6.54 =
12.49 −6.18 =	37.8 +16.6 =	36.78 −19.64 =
4.5 +67.7 =	14.65 −8.65 =	0.19 +0.84 =
18 −0.72 =	54.14 +6.36 =	7.07 +5.66 =

B组 变式口算题

1. 下面图形中（　　）图形的周长最大。

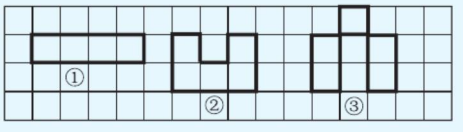

2. 下面图形的面积是（　　）cm^2。

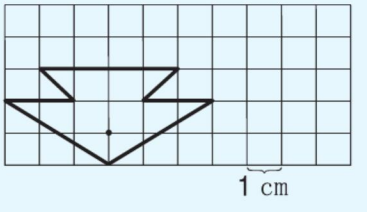

关注微信公众号“教辅资料站”获取更多学习资料

练习4 习题课

用时：___分___秒 错误：　个

A组 常规口算题

3 +28.9 =	26.71 −25.5 =	1.1 +34.9 +8.9 =
7.64 −2.34 =	18.8 +0.75 =	40 −31.6 −5.4 =
31.58 +14.42 =	22 −10.2 =	5.8 +9.6 −4.9 =
46 −0.8 =	30.03 +57.7 =	0.96 +5.43 −0.51 =
16.35 +6.15 =	24 −14.9 =	0.87 +1.48 +0.52 +1.13 =
77.88 −55 =	18.09 +0.9 =	90 −60.5 −29.5 =
2.1 +6.76 =	78.6 −23.1 =	45.49 +5.1 −5.49 =
35.1 +95 =	88.88 −60.68 =	63.74 −16.9 −43.1 =
31.72 +4 =	8.93 −6.72 =	15.4 +7.2 +9.6 =
25.76 −3.5 =	6.4 +17.09 =	12.31 −9.7 −0.1 −1.2 =
40 +2.98 =	18.2 −4.05 =	13.2 −4.71 −2.29 =
3.41 +9.78 =	2.36 +7.87 =	65.9 +12.78 +21.1 =
18.7 −6.5 =	11 −0.77 =	0.48 +1.24 +0.52 =
34.9 +6.76 =	24.56 −16.7 =	0.11 +6.78 +4.89 =
8.09 −5.44 =	17.22 +5.79 =	15.5 −0.79 −3.21 =
14.58 +9.42 =	60.9 −54.55 =	34.1 +18.9 −24.1 =

B组 变式口算题

◆ 根据对称轴，分别画出下面两个轴对称图形的另一半。

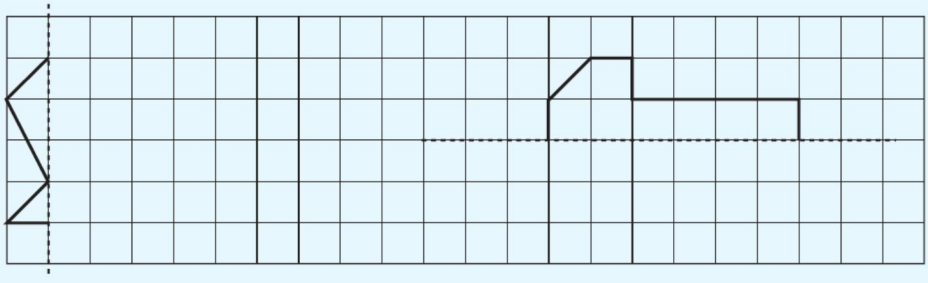

关注微信公众号“教辅资料站”获取更多学习资料

第 7 单元口算能力测试

用时：___分___秒　错误：　个

A组 常规口算题

1 − 0.65 =	0.7 + 0.23 =	50 − 34.16 − 0.84 =
0.73 + 0.27 =	3 + 4.58 =	17.5 + 2.2 − 11.3 =
5 − 0.42 =	4.3 + 2.31 =	19.1 − 8.1 + 6.73 =
6.83 − 1.8 =	10 − 3.33 =	7.74 + 6.6 + 6.26 =
1.84 + 2.16 =	16.09 − 5.07 =	4.08 + 5.92 + 21.4 + 6.6 =
5.73 + 5.73 =	31.9 − 11.72 =	42.24 + 31.9 − 42.24 =
54.85 − 12.6 =	6.8 + 5.75 =	25.61 − 1.9 + 4.39 =
24.3 − 24 =	35 − 10.5 =	9.5 + 0.11 − 9.5 + 0.11 =
8.56 + 0.39 =	26.35 + 2.7 =	15.39 − 8.79 − 6 =
2.35 − 0.41 =	15.81 + 7.1 =	38.07 − 4.6 − 5.4 =
20.2 + 6.83 =	2.7 + 4.19 =	3.28 + 5.61 + 0.72 =
0.98 + 1.67 =	6.1 − 4.55 =	18.36 − 5.4 − 8.36 =
14.54 − 6.32 =	22.4 + 34.56 =	45.6 + 14.2 + 4.4 =
23.97 − 13.65 =	13.9 − 8.6 =	17.81 − 9.3 − 5.7 =
8.54 + 3.24 =	40.88 − 24.34 =	17.76 + 6.45 + 2.24 =
39.8 − 7.65 =	3.86 + 5.42 =	70 − 21.86 − 12.14 =

B组 变式口算题

◆ 先画出下面轴对称图形的另一半，再将这个轴对称图形向右平移 4 格。

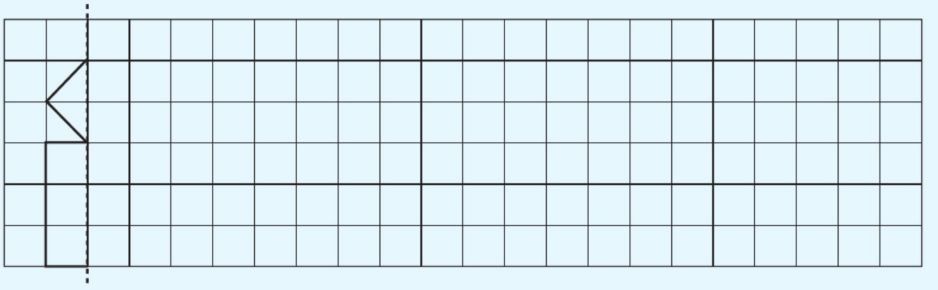

关注微信公众号“教辅资料站”获取更多学习资料

第8单元 平均数与条形统计图

练习1 平均数

用时：____分____秒　错误：　个

A组 常规口算题

124 ÷ 4 =	630 ÷ 10 =	2730 ÷ 30 =
255 ÷ 5 =	132 ÷ 6 =	420 ÷ 70 =
122 ÷ 2 =	1400 ÷ 50 =	4000 ÷ 80 =
224 ÷ 4 =	9600 ÷ 600 =	542 ÷ 2 =
2400 ÷ 20 =	340 ÷ 20 =	4900 ÷ 700 =
840 ÷ 4 =	360 ÷ 20 =	5000 ÷ 5 =
1500 ÷ 20 =	200 ÷ 10 =	3660 ÷ 60 =
146 ÷ 2 =	6200 ÷ 20 =	960 ÷ 6 =
440 ÷ 8 =	680 ÷ 40 =	500 ÷ 500 =
200 ÷ 20 =	7000 ÷ 500 =	1800 ÷ 30 =
440 ÷ 4 =	1100 ÷ 100 =	4400 ÷ 20 =
155 ÷ 5 =	355 ÷ 5 =	650 ÷ 5 =
235 ÷ 5 =	1290 ÷ 30 =	520 ÷ 2 =
380 ÷ 20 =	2300 ÷ 20 =	530 ÷ 2 =
1236 ÷ 6 =	1740 ÷ 30 =	630 ÷ 5 =

B组 变式口算题

1. 填表。求出表内每一行数的平均数。

100	140	190	110	120	180	
22	36	54	84	60	140	
39	37	31	28	22	23	

2. 在一次测试中，王明语文、数学和英语的平均成绩是92分，其中语文考了90分，英语考了96分，那么数学考了(　　)分。

关注微信公众号“教辅资料站”获取更多学习资料

练习2 复式条形统计图

用时：___分___秒 错误：　个

A组 常规口算题

34 × 2 =	255 ÷ 5 =	612 + 340 =
700 − 543 =	152 × 4 =	2103 ÷ 3 =
1604 ÷ 4 =	342 − 121 =	74 × 3 =
780 + 700 =	248 ÷ 4 =	875 − 320 =
5 × 120 =	470 + 90 =	5260 ÷ 20 =
440 ÷ 40 =	243 × 2 =	118 + 442 =
900 − 630 =	7240 ÷ 40 =	650 × 6 =
99 + 57 =	1000 − 642 =	696 ÷ 3 =
85 × 4 =	188 + 780 =	573 − 421 =
448 ÷ 2 =	459 ÷ 3 =	3020 − 1200 =
8 × 125 =	460 × 20 =	3000 ÷ 200 =
980 − 234 =	738 ÷ 6 =	140 × 50 =

B组 变式口算题

◆ 希望小学四年级学生最喜欢的电视节目情况统计表如下。根据表中的数据完成下面的统计图。

	体育节目	综艺节目	电视剧	动画片
男生	95	50	50	80
女生	30	70	80	80

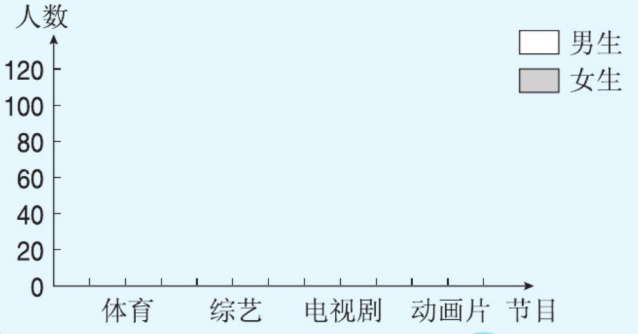

关注微信公众号“教辅资料站”获取更多学习资料

第8单元口算能力测试

用时：____分____秒　错误：　个

A组 常规口算题

246 ÷ 3 =	3 × 62 =	88 + 44 =
897 − 460 =	140 ÷ 20 =	155 × 2 =
8 × 12 =	284 + 422 =	300 ÷ 20 =
186 + 474 =	600 − 390 =	808 × 8 =
6000 ÷ 500 =	524 × 5 =	300 − 199 =
590 × 6 =	3600 ÷ 600 =	278 + 150 =
710 − 660 =	397 + 43 =	5000 ÷ 100 =
1200 ÷ 60 =	4 × 508 =	571 − 180 =
154 × 0 =	850 ÷ 50 =	340 × 3 =
729 ÷ 9 =	128 + 362 =	496 − 154 =
853 − 240 =	640 ÷ 20 =	39 × 3 =
205 × 9 =	480 − 480 =	69 + 23 =

B组 变式口算题

◆ 下面是四年级一班9～12月回收垃圾统计表。根据表中的数据完成右边的统计图和下面的练习。

月份	9	10	11	12
废纸/千克	40	35	55	30
白色垃圾/千克	15	20	30	25

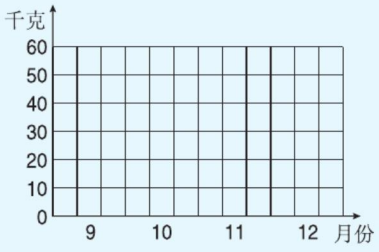

1.（　　）月回收的废纸最多，（　　）月回收的白色垃圾最多。

2. 平均每月回收（　　）千克的废纸。

关注微信公众号“教辅资料站”获取更多学习资料

第9单元 数学广角——鸡兔同笼

练习　鸡兔同笼

用时：____分____秒　错误：　个

A组 常规口算题

59 +86 +141 =	7.86 −4.9 −2.1 =	12 ×23 ×5 =
0.82 +0.33 +0.18 =	109 ×37 +37 ×91 =	450 ÷15 ÷6 =
13.48 −4.3 −3.48 =	10.93 −6.7 +0.07 =	99 ×56 +56 =
25 ×12 ×7 =	99.9 +9.9 +0.1 =	(16 +8) ×5 =
5 −1.4 −0.6 =	4.32 +0.3 +0.68 +0.7 =	500 ÷2 ÷50 =
12.8 +3.65 +6.2 =	4 ×8 ×125 ×15 =	8 ×77 +8 ×33 =
316 +404 +184 =	35.94 −15.7 −3.3 =	900 ÷(25 ×9) =
(45 +80) ×2 =	54.67 −7.2 −4.67 =	458 +233 +142 =
100 −70.39 −3.61 =	37.65 −10.48 +2.35 =	12 ×13 ×5 =
320 ÷(16 ×4) =	40.58 −(9.58 +3.63) =	160 ×2 ×5 =
3.8 +3.2 −4.7 =	11 ×19 +11 ×31 =	584 +12 −84 =
4 ×87 ×5 =	240 ÷15 ÷2 =	480 ÷12 ÷4 =
673 +108 +227 =	5.64 +6.57 +0.43 =	102 ×35 =
1379 −(221 +379) =	560 −199 −201 =	6 ×91 ×5 =
118 ×23 −23 ×18 =	630 ÷(7 ×5) =	180 ÷(3 ×5) =
18 ×53 ×5 =	18.9 −5.41 −3.59 =	270 ÷45 ÷2 =

B组 变式口算题

◆ 笼子里有若干只龟和鹤，从上面看有 18 个头，从下面看有 50 只脚，那么龟、鹤各有几只？

龟	0	1	2	3								……
鹤	18	17	16									……
脚	36	38	40									……

通过填表可以得出：龟有(　　)只，鹤有(　　)只。

关注微信公众号“教辅资料站”获取更多学习资料

第9单元口算能力测试

用时：___分___秒　错误：　个

A组　常规口算题

1200 −900 +800 =	3.49 +0.39 +0.51 =	25 ×14 ×4 =
1500 ÷4 ÷25 =	13.76 −8.1 −3.76 =	322 +481 +78 =
(25 +50) ×4 =	101 ×72 =	99 ×28 +28 =
54 +77 +23 +46 =	30 −15.64 −9.36 =	2700 ÷15 ÷6 =
35 ×9 ×2 =	0.72 +6.99 +1.28 =	398 −111 −89 =
5400 ÷18 ÷3 =	46 ×21 +54 ×21 =	7.2 +4.9 +6.8 =
56 ÷14 ÷4 =	56.97 −13.88 −12.12 =	50 ×68 ×2 =
1300 +960 +700 =	57.86 −31.9 −4.1 =	16000 ÷125 ÷8 =
31 ×84 +31 ×16 =	35.77 +8.01 +2.23 =	861 −120 −61 =
8 ×22 ×5 =	9.04 +0.94 +9.96 =	101 ×63 −63 =
86 ×25 −6 ×25 =	63.74 −22.3 −16.74 =	34.6 −5.8 −4.6 =
2000 ÷25 ÷8 =	7210 −2210 +3470 =	700 ÷(25 ×7) =
98 ×47 +2 ×47 =	87.1 −45.5 −21.5 =	990 ÷11 ÷9 =
6 ×9 ×15 =	0.64 +1.58 +0.42 +0.36 =	79 ×55 +55 =
25 ×29 ×2 =	34.68 −(4.35 +4.68) =	560 ÷16 ÷5 =
8000 ÷16 ÷5 =	649 −(349 +188) =	5 ×77 ×4 =

B组　变式口算题

◆ 想一想，填一填。

四年级一班48人租船游玩，共租了9条船，每条船上都坐满了。已知大船坐6人，小船坐4人，则大船租(　　)条，小船租(　　)条。

分析：假设全租大船，每条船都坐满，一共坐了(　　) ×(　　) =(　　)(人)，比实际人数多了(　　) −(　　) =(　　)(人)，这是因为把小船也看成了大船，这样每条小船就多坐了(　　) −(　　) =(　　)(人)，那么一共租小船(　　) ÷(　　) =(　　)(条)，租大船(　　) −(　　) =(　　)(条)。

关注微信公众号“教辅资料站”获取更多学习资料

第10单元 总复习

练习1 四则运算

用时：___分___秒　错误：　个

A组 常规口算题

230 + 340 =	23 × 3 =	(32 + 12) ÷ 4 =
789 − 451 =	67 × 200 =	(23 − 12) × 6 =
87 − 69 =	8400 ÷ 20 =	89 × (88 + 12) =
1900 − 1266 =	340 ÷ 20 =	(890 − 690) × 2 =
786 + 221 =	12 × 5 =	77 ÷ (77 − 70) =
123 − 111 =	84 ÷ 2 =	(23 + 40) ÷ 9 =
679 + 221 =	23 × 4 =	65 ÷ (75 − 10) =
912 − 121 =	930 ÷ 30 =	78 × (11 − 11) =
986 + 434 =	59 × 1 =	48 ÷ (46 − 40) =
134 − 78 =	89 × 0 =	34 × (349 + 151) =
671 + 119 =	129 ÷ 3 =	12 × (5 + 4) − 20 =
812 − 612 =	27 × 6 =	6 × (34 − 24) ÷ 6 =
9820 − 1780 =	564 × 5 =	780 ÷ (390 ÷ 30) =
654 + 198 =	824 ÷ 4 =	115 × (647 − 587) =
700 − 397 =	140 × 70 =	1300 − (870 + 410) =
390 + 765 =	600 ÷ 25 =	736 + (418 − 340) =

B组 变式口算题

1. 填运算符号，使等号两边相等。

210 □ 230 = 449 □ 9　　23 × 5 = 100 □ 15　　120 □ 3 = 80 □ 2

20 □ 13 = 63 □ 30　　90 × 2 = 360 □ 2　　23 □ 10 = 73 □ 40

2. 根据加减乘除法各部分间的关系和给出的算式，写出相应的另外两个算式。

(1)234 + 1457 = 1691　　(2)45 × 19 = 855　　(3)952 ÷ 28 = 34

_____　　_____　　_____

_____　　_____　　_____

关注微信公众号“教辅资料站”获取更多学习资料

练习2 观察物体（二）

用时：___分___秒 错误：　个

A组 常规口算题

422 + 180 =	122 × 5 =	610 − (186 + 134) =
328 − 177 =	3600 ÷ 600 =	15 × (1340 − 1290) =
1200 − 545 =	568 ÷ 8 =	640 ÷ (458 − 378) =
199 + 652 =	41 × 60 =	389 − (785 − 675) =
400 − 346 =	1000 ÷ 8 =	(128 + 674) ÷ 2 =
78 + 2468 =	700 × 12 =	(674 − 543) × 5 =
620 + 860 =	313 × 3 =	21 × (600 ÷ 20) =
330 − 165 =	966 ÷ 6 =	60 × (2400 ÷ 80) =
457 + 160 =	450 × 40 =	143 + (501 − 341) =
700 − 375 =	8100 ÷ 300 =	96 ÷ (480 ÷ 30) =
1200 + 987 =	650 × 8 =	(311 + 529) ÷ 40 =
813 − 640 =	678 ÷ 6 =	320 ÷ (16 × 5) =
746 + 344 =	707 × 8 =	(641 − 201) ÷ 40 =

B组 变式口算题

◆ 看一看，填一填。

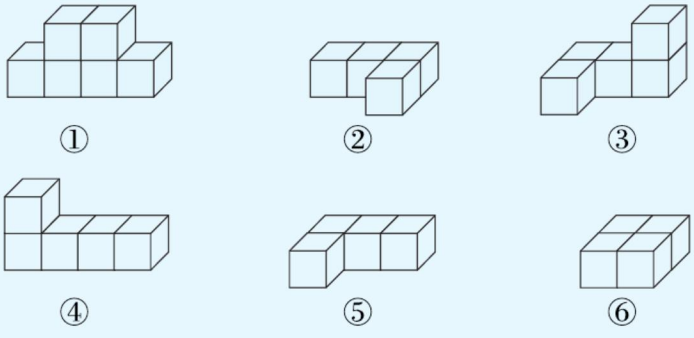

1. 从左面看到的形状是两个正方形的有(　　)。
2. 从正面看到的是三个正方形的有(　　)。
3. 从上面看到的是四个正方形的有(　　)。

关注微信公众号“教辅资料站”获取更多学习资料

练习3 运算定律

用时：___分___秒 错误：　个

A组 常规口算题

38 + 36 + 64 =	146 + 88 + 54 + 12 =	125 × 19 × 8 =
85 + 15 + 65 =	34 + 38 + 66 + 22 =	560 ÷ 35 ÷ 2 =
79 + 8 + 21 =	1090 − 440 − 360 =	720 ÷ 8 ÷ 90 =
130 + 27 − 27 =	654 + 76 − 454 =	25 × 7 × 4 =
357 + 670 + 643 =	234 − 23 − 77 =	23 × 2 × 5 =
110 + 22 + 18 =	311 + 89 − 200 =	320 ÷ 8 ÷ 5 =
89 + 11 − 50 =	450 ÷ (5 × 5) =	800 ÷ 16 ÷ 5 =
89 − 22 + 11 =	321 × 20 × 5 =	1000 ÷ 200 × 5 =
865 + 11 − 265 =	14 × 17 × 5 =	45 × 9 × 2 =
807 + 40 + 693 =	360 ÷ 5 ÷ 4 =	76 × 5 × 2 =
58 + 61 + 39 =	25 × 16 =	34 × 20 × 5 =
75 + 168 + 32 =	32 × 4 × 25 =	500 × 23 × 4 =
126 × 15 − 15 × 26 =	537 − (137 + 99) =	816 − 426 − 174 =
421 + 329 + 179 =	125 × 18 × 4 =	453 − 431 + 147 =
6 × 31 × 15 =	240 ÷ 16 ÷ 5 =	84 × 25 + 25 × 16 =
738 + 142 + 162 =	800 ÷ 25 ÷ 4 =	12 × 27 × 5 =

B组 变式口算题

1. 写出下列算式各运用的运算定律。

(1) 230 × 2 × 5 = 230 × (2 × 5)

_____

(2) 54 + 28 + 46 = (54 + 46) + 28

_____

(3) (8 + 2) × 2 = 8 × 2 + 2 × 2

_____

2. 算一算。

25 × 32 × 125　　99 × 34

720 ÷ 48　　101 × 99

关注微信公众号“教辅资料站”获取更多学习资料

练习4 小数的意义和性质

用时：___分___秒　错误：　个

A组 常规口算题

4.5 + 2.3 =	6.6 × 100 =	23.4 × 100 =
8.9 − 4.5 =	7.7 ÷ 100 =	12.1 ÷ 10 =
6.5 + 1.1 =	12.8 × 10 =	23.41 × 1000 =
8.3 − 2.3 =	0.9 × 1000 =	1.3 ÷ 100 =
9.6 + 1.2 =	78.4 ÷ 1000 =	12.23 × 1000 =
2.1 − 1.1 =	53.2 ÷ 100 =	4.13 ÷ 10 =
3.2 + 3.3 =	34.1 ÷ 10 =	6.27 × 100 =
4.1 − 3.1 =	12.7 × 100 =	1.32 ÷ 10 =
5.2 + 3.2 =	41.2 ÷ 100 =	0.89 × 1000 =
9.2 − 7.1 =	0.043 × 1000 =	3.24 ÷ 100 =
6.8 + 1.1 =	10.1 ÷ 1000 =	0.06 × 10 =
5.3 − 3.3 =	3.204 × 100 =	11.23 ÷ 100 =
4.5 + 3.2 =	56.1 ÷ 10 =	2.03 × 1000 =
6.9 − 4.4 =	90 ÷ 1000 =	97.6 ÷ 100 =

B组 变式口算题

1. 在○里填上“ > ”“ < ”或“ = ”。

(1) 34.56 × 100 ○ 3456 ÷ 1000　　2.34 ÷ 10 ○ 23.4 ÷ 100

(2) 1.5 × 100 ○ 15 ÷ 1000　　0.89 × 100 ○ 8.9 × 100

2. □里可以填哪些数？填在括号里。

(1) 8.□9 ≈ 9（　　）　　6.□2 ≈ 6（　　）

(2) 12.□4 ≈ 12（　　）　　9.□5 ≈ 10（　　）

关注微信公众号“教辅资料站”获取更多学习资料

练习5 三角形

用时：___分___秒 错误：　个

A组 常规口算题

123 + 142 + 277 =	1800 − 670 − 330 =	5 × 29 × 14 =
210 ÷ 15 ÷ 2 =	101 × 84 =	800 ÷ 32 =
541 − (141 + 122) =	99 × 36 + 36 =	900 ÷ (9 × 25) =
25 × 31 × 2 =	420 ÷ (7 × 4) =	711 − 249 − 151 =
56 × 27 + 44 × 27 =	141 + 347 + 159 =	983 − (244 + 383) =
461 − 276 − 161 =	125 × 9 × 8 =	15 × 17 × 4 =
400 ÷ 16 ÷ 5 =	577 − 131 + 123 =	102 × 48 − 2 × 48 =
101 × 89 − 89 =	560 ÷ (7 × 5) =	284 + 327 + 116 =
1287 − (287 + 550) =	4 × 61 × 5 =	947 − 244 − 156 =
508 + 234 + 192 =	119 × 56 − 56 × 19 =	780 ÷ 15 ÷ 4 =
22 × 9 × 5 =	389 − 113 − 189 =	672 − (241 + 172) =
7000 ÷ 125 ÷ 8 =	104 × 25 =	600 ÷ (25 × 6) =
43 + 71 + 57 + 29 =	876 − 368 − 232 =	8 × 71 × 5 =
500 ÷ (25 × 5) =	62 × 26 + 26 × 38 =	200 ÷ 25 ÷ 4 =
1480 − 310 − 290 =	18 × 11 × 5 =	99 × 101 − 99 =
68 × 3 × 5 =	630 ÷ 18 ÷ 5 =	776 + 254 + 124 =

B组 变式口算题

◆ 连一连。

三个角相等	锐角三角形
没有直角和钝角	等边三角形
有一个直角，且有两条边相等	等腰直角三角形

关注微信公众号“教辅资料站”获取更多学习资料

练习6 小数的加法和减法

用时：___分___秒 错误：　个

A组 常规口算题

18.8 − 12 =	50 + 0.5 =	25 − 7.1 − 7.9 =
14.56 + 2.41 =	8.69 − 4.32 =	0.71 + 0.8 + 0.29 + 0.2 =
64.33 − 33 =	7.21 + 6.2 =	10.2 + 0.8 + 0.2 =
16.7 + 0.33 =	14 − 8.8 =	41.1 − 22.44 − 5.56 =
0.87 − 0.14 =	19.35 + 2.5 =	6.78 + 8.12 + 0.22 =
7 + 0.71 =	5.6 − 1.29 =	6.38 − 3.24 + 1.57 =
12.9 − 1.49 =	40.66 + 6.55 =	10 − 3.07 − 0.93 =
0.39 + 0.67 =	53.1 − 28.4 =	4.26 + 2.9 + 8.1 =
13 − 0.13 =	90.8 + 9.8 =	5.5 − 3.2 + 7.3 =
6.01 − 0.61 =	48.4 − 38.9 =	39 − 16.81 − 3.19 =
31.8 + 44 =	76.6 + 6 =	55 + 14.7 + 31.3 =
100.99 − 90.9 =	50 − 12.75 =	16.7 + 8.07 + 5.3 =
12.4 + 22 =	40 + 32.1 =	23.7 + 1.2 + 8.8 =
31.8 − 21.3 =	23.5 − 3.1 =	23 − 12.3 − 7.7 =
12.34 + 13.21 =	30 + 23.6 =	12.67 + 23 + 7.33 =
35 − 21.3 =	32.5 − 11.2 =	8.62 + 2.38 + 3 =

B组 变式口算题

◆ 找规律填数。

1. 5.48　5.88　6.28　_____　_____

2. 11.479　11.474　11.469　_____　_____

3. 0.38　1.88　3.38　4.88　_____　_____

4. 6.846　6.826　6.806　_____　_____

关注微信公众号“教辅资料站”获取更多学习资料

练习7 图形的运动（二）

用时：___分___秒 错误：　个

A组 常规口算题

567 − 342 =	7.8 + 11.2 =	56.4 − 32.1 + 9.3 =
6.76 − 3.12 =	6900 + 700 =	0.69 + 0.33 + 0.67 + 0.31 =
487 + 120 =	8.56 − 3.54 =	100 − 45.4 − 54.6 =
8 + 27.7 =	568 − 180 =	10.3 + 4.1 − 9.2 =
800 − 431 =	0.99 + 1.66 =	8.83 − 5.15 − 2.85 =
418 + 252 =	10 − 7.13 =	1.14 + 0.66 + 0.86 + 1.34 =
50.49 − 38.19 =	631 + 136 =	4.08 + 0.16 − 0.22 =
3.17 + 6.9 =	876 − 465 =	15.3 − 5.3 + 8.91 =
486 − 155 =	9 + 13.9 =	89 − 12.63 − 13.37 =
1308 + 500 =	20 − 10.9 =	16.48 + 6.3 + 4.52 =
57.88 − 40.62 =	4209 + 200 =	5.17 − 2.4 − 1.17 =
0.79 + 0.84 =	14.54 − 5.30 =	2.29 + 0.35 + 1.65 =
567 − 234 =	458 − 231 =	3.12 + 2.14 + 3.8 =
231 + 466 =	321 + 231 =	23 + 4.4 + 5.6 =
21.56 − 12.45 =	562 − 213 =	90 − 12.4 − 7.6 =
23 + 435 =	6 + 43.21 =	8.9 + 1.1 + 2.4 =

B组 变式口算题

◆ 先画出轴对称图形的另一半，再将这个图形向右平移 8 格。

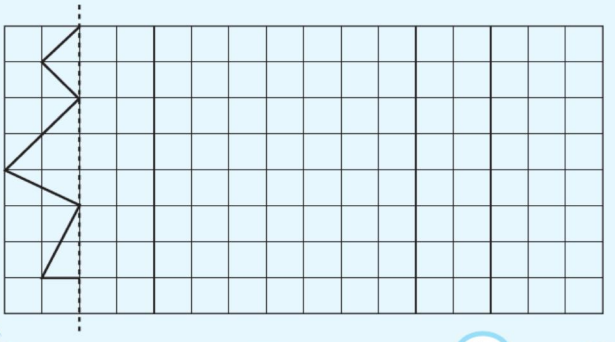

关注微信公众号“教辅资料站”获取更多学习资料

练习8 平均数与条形统计图

用时：___分___秒　错误：　个

A组 常规口算题

6 × 130 =	640 ÷ 16 =	754 + 143 =
812 − 540 =	145 × 4 =	824 ÷ 4 =
637 ÷ 7 =	58 × 4 =	8 × 105 =
469 + 790 =	700 − 560 =	319 − 130 =
111 × 9 =	840 ÷ 40 =	6 × 71 =
429 − 227 =	185 + 315 =	7200 ÷ 300 =
440 ÷ 20 =	699 − 455 =	301 + 287 =
6 × 150 =	84 × 4 =	473 − 120 =
480 + 408 =	2000 ÷ 100 =	280 × 50 =
313 × 3 =	8 × 28 =	168 ÷ 8 =
500 − 311 =	298 + 120 =	7 × 450 =
7000 ÷ 35 =	704 − 550 =	519 + 409 =
120 + 224 =	321 + 332 =	134 + 211 =

B组 变式口算题

◆ 下面是利华小学四年级一班女生50米跑的成绩(单位:秒),请你完成下面的统计图表。

9.1　10.3　8.9　8.5　9.6　9.1　9.2　8.8　9.3
8.7　9.0　9.1　9.4　8.9　10　8.6　9.3　8.5

等级	优秀	良好	及格	不及格
成绩/秒	8.8及8.8以下	8.9 ~ 9.4	9.5 ~ 10.0	10.0以上
人数				

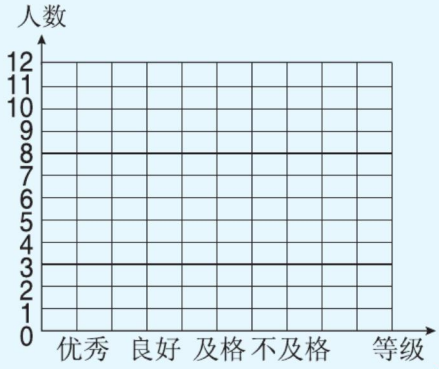

关注微信公众号“教辅资料站”获取更多学习资料

练习9 数学广角——鸡兔同笼

用时：___分___秒 错误：　个

A组 常规口算题

678 +512 +322 =	15 ×8 ×6 =	0.76 +0.34 +0.24 =
88 ×14 +12 ×14 =	18 −7.16 −6.84 =	500 −192 −108 =
4800 ÷25 ÷4 =	0.15 +0.56 +0.85 =	36 ×25 =
1200 −660 −340 =	600 ÷12 ÷5 =	9.69 +4.12 +0.31 =
21.17 +3.7 +6.13 =	123 ×15 −23 ×15 =	38.7 −15.42 −16.58 =
50 ×24 ×2 =	405 ×19 −5 ×19 =	360 ÷12 ÷5 =
1.91 −0.27 −0.73 =	286 +113 +114 =	540 −390 +160 =
(84 +16) ×50 =	7.29 +4.71 +5 =	102 ×36 =
458 −132 −258 =	490 ÷14 ÷5 =	86 ×19 +19 ×14 =
5.66 +4.14 +3.34 =	25 ×11 ×8 =	60 −47.26 −2.74 =
893 −344 −256 =	15.5 +6.35 +0.5 =	480 ÷20 ÷4 =
3000 ÷8 ÷125 =	890 −58 −42 =	55 ×28 −28 ×5 =
12.34 −(3 +3.34) =	2.67 −(1 +0.67) =	2.3 +77 +7.7 =
120 ÷5 ÷2 =	25 ×45 ×4 =	810 ÷15 ÷6 =
560 +231 +440 =	231 +33 +69 =	438 −56 −44 =
3.26 +2.4 +6.74 =	7.23 +3.4 +2.77 =	65 +635 +35 =

B组 变式口算题

◆ 在一次知识竞赛中，规定：答对一题得 10 分，答错一题扣 6 分。乐乐答 10 道题，共得 68 分。乐乐一共答错几道题？答对几道题？

分析：假设乐乐 10 道题全答对，那么应得(　　)分，比实际多出了(　　)−(　　)=(　　)(分)，这样每道答错的题就算成了(　　)+(　　)=(　　)(分)，(　　)÷(　　)=(　　)(道)，(　　)−(　　)=(　　)(道)，因此可知，乐乐一共答错(　　)道题，答对(　　)道题。

关注微信公众号“教辅资料站”获取更多学习资料



口算能力期末综合测评（一）

用时：___分___秒　错误：　个

A组 常规口算题

16 × 30 =	480 ÷ 24 =	1880 − 541 − 659 =
520 ÷ 26 =	750 − 235 =	48 × 4 × 5 =
856 − 713 =	130 × 30 =	1020 − 440 − 560 =
9100 ÷ 700 =	242 × 20 =	1900 ÷ 50 ÷ 2 =
225 × 4 =	660 ÷ 20 =	719 + 34 + 81 =
420 ÷ 30 =	59 × 20 =	103 × 40 − 3 × 40 =
36 × 30 =	860 ÷ 43 =	10000 ÷ 4 ÷ 25 =
387 − 305 =	155 ÷ 31 =	114 − 86 − 14 =
49 × 50 =	217 − 152 =	6 × 28 × 5 =
512 + 88 =	129 × 2 =	1156 − 460 − 540 =
360 ÷ 20 =	700 × 9 =	113 × 50 − 63 × 50 =
660 ÷ 11 =	675 − 330 =	240 ÷ 15 ÷ 4 =
220 × 7 =	511 + 78 =	349 + 129 + 51 =
809 − 300 =	315 ÷ 15 =	4 × 7 × 25 =
456 + 144 =	900 − 630 =	810 ÷ 3 ÷ 30 =
960 ÷ 32 =	280 + 76 =	450 − 182 − 118 =
174 ÷ 6 =	80 × 70 =	584 − 79 − 221 =
25 × 18 =	148 ÷ 2 =	20 × 125 × 50 =
154 − 136 =	316 + 104 =	11 × 80 × 5 =
710 ÷ 71 =	18 × 60 =	138 + 209 + 162 =
124 + 392 =	125 × 24 =	500 × 16 × 2 =
255 ÷ 5 =	224 ÷ 2 =	234 − 55 − 45 =
43 × 20 =	35 × 20 =	25 × 23 × 4 =
332 + 221 =	432 − 221 =	23 × 4 + 77 × 4 =



关注微信公众号“教辅资料站”获取更多学习资料

口算能力期末综合测评（二）

用时：___分___秒 错误：　个

A组 常规口算题

6.7 +9.9 =	18.78 −6.54 =	56.09 −12.77 −11.23 =
40 −38.5 =	4.1 +17.71 =	0.27 +0.76 +0.73 =
15.64 +2.9 =	7.76 −4.43 =	18.79 −(4.3 +7.79) =
8.7 −2.1 =	6.34 +10 =	55.43 −22.34 −8.66 =
5.08 +3.9 =	21.8 −13.8 =	41.9 −(23 +1.9) =
0.08 +0.8 =	52.6 +14.4 =	100 −43.78 −7.22 =
9.09 −4.04 =	8.17 +3.9 =	18.4 +7.3 +1.6 =
68.8 −54.7 =	45 +4.5 =	10.35 +10.55 +0.1 =
3.38 −1.3 =	7.8 +4 =	0.54 −0.49 +0.46 =
14 −2.2 =	52.1 +1.6 =	33.5 −(4 +3.5) =
6.9 +0.9 =	6.3 −3.3 =	7.08 +5.9 +1.92 =
41.8 −1.2 =	4.9 +6.5 =	29.58 −13.6 −11.4 =
0.73 +0.37 =	11.5 −6.1 =	18.88 −(10 +2.88) =
2.38 −1.25 =	5.75 +5 =	3.38 +2.44 +0.62 =
8 −0.09 =	7.77 +7.1 =	90 −36.7 −23.3 =
0.66 +0.55 =	8.01 −6 =	45.3 +5.7 +4.7 =
11 −1.1 =	17.71 −4.41 =	50.79 +4.31 −5.79 =
6.16 +8.8 =	20 +0.2 =	47.4 −(3.6 +7.4) =
72.83 −31.52 =	0.65 +6.55 =	16 −0.62 −3.38 =
0.19 +19 =	30.3 −9.3 =	5.55 +7.14 +9.45 =
40.84 −10.33 =	7.87 +8.13 =	6.45 −(2.3 +2.45) =
2.34 +20 =	5.23 +10 =	2.3 +43 +7.7 =
12 −1.4 =	13 −2.1 =	32.34 −(12 +11.34) =
5.26 −3.14 =	17.28 −5.44 =	30.5 −4.7 −3.3 =

关注微信公众号“教辅资料站”获取更多学习资料

参考答案

第1单元 练习1（第1页）

A组

605	780	1547
800	88	432
1910	5202	990
1850	649	195
834	36	900
2888	301	1284
358	7610	542
67	112	138
3034	171	818
500	6148	632
1468	485	5
95	4773	225
702	380	411
188	1000	430
5410	605	536
803	709	1504

B组

1. 748　8651

2. 914　128　2220
   2311　818　521
   4270　4000　790

练习2（第2页）

A组

1000	81	30
4400	90	60
210	15120	5
3	321	540
2020	4880	40
71	8200	30
624	76	240
33	640	256
588	5	2
22	1400	20
528	20	22
50	1620	30
5110	17	30
3	64	5
1140	1390	131
115	2760	40

B组

1. 800　18　13500　11
   52　32　648　50

2. (1)60　(2)840　(3)45

练习3（第3页）

A组

139	9	0
510	3900	9
2050	0	115
31	1321	18090
14000	874	7
7640	5	714
82	0	1344
943	206	126
1760	47	0
70	5282	506
3121	2560	12
51	616	7070
235	172	3679
2880	155	125
229	739	740
183	462	416

B组

1. <　=　>

2. (2)√　(3)√

3. $(D-E)\div(A\times B)=G$

练习4（第4页）

A组

204	1651	180
448	1120	1000
630	33	440
3520	407	10
3000	4180	0
107	102	48
2400	20	5
107	672	1040
644	91	84
4832	800	1200
317	1890	4
177	56	570
3060	31	900
944	1320	576
175	725	87
78	1345	576

B组

80　16　1280

$(48+32)\times(64\div4)=1280$

96　6　150

$25\times[(163-67)\div16]=150$

练习5（第5页）

A组

139	211	68
5600	295	25
706	10100	300
53	119	0

请沿此虚线裁剪下使用

关注微信公众号“教辅资料站”获取更多学习资料

70	39	10
1920	4600	212
492	2560	40
12000	14	40
16	526	440
204	363	10
1170	246	30
106	25	3960
12	699	400
2711	729	1061
2616	38	488
142	440	2440

B 组

1. ×

改正：600 + 400 ÷ 25 − 40
= 600 + 16 − 40
= 616 − 40
= 576

×

改正：51 × (1600 ÷ 40 − 20)
= 51 × (40 − 20)
= 51 × 20
= 1020

2. (1) (90 − 38) × 2√
(2) 50 + 16 + 80 ÷ 4√
(3) 600 + 432 ÷ 6 × 9√

第 1 单元口算能力测试

（第 6 页）

A 组

24	0	300
490	1200	100
558	270	79
62	582	1
6754	3	1160
335	200	120
40	475	123
870	170	4738
5	20	11
20	165	80
3400	540	150
200	1860	0
42	152	930
565	5740	30
870	1970	19500
183	535	22

B 组

1. × − × ÷ × ÷
÷ + ÷ × ÷ +

2. 501 − 84 = 417
501 − 417 = 84
6054 − 2594 = 3460
3460 + 2594 = 6054
4224 ÷ 132 = 32
4224 ÷ 32 = 132
2117 ÷ 29 = 73
29 × 73 = 2117

第 2 单元 练习 1（第 7 页）

A 组

36	1424	110
120	622	470
3570	59	12
300	5	520
11	930	146
120	51	25
116	120	600
760	39	720
36000	765	205
383	5100	233
48	3000	1600
648	140	6
630	41	40
5508	356	896
3480	1610	8000
142	4200	4300

B 组

略。

练习 2（第 8 页）

A 组

88	0	330
241	250	5
398	2430	140
220	214	5
2444	80	10500
16	66	300
990	1540	4800
195	290	800
340	33	801
206	239	0
587	10000	90
128	800	270
630	498	233
237	321	850
8181	830	372
438	63	1140

B 组

1. 略。　2. 前或后

第 2 单元口算能力测试

（第 9 页）

A 组

4920	68	270
98	1000	4
92	30	260
240	6600	0
465	73	318
5020	20	78
21	79	56
432	21060	340

请沿此虚线裁剪下使用

关注微信公众号“教辅资料站”获取更多学习资料

62 7 11
269 767 50
54 0 50
3080 189 4000
870 180 41
626 2640 0
64 175 4400
1034 618 870

B 组

1. ①② ③ 2. ①③④
3. 5

第3单元 练习1（第10页）

A 组

103 510 190
260 165 190
784 17 152
368 1340 152
723 90 140
179 58 140
169 930 810
235 170 810
1169 350 518
128 509 518
235 140 1040
65 689 1040
58 542 1143
934 323 1143
166 525 1032
460 48 1032

B 组

1. 77 22 78 240
2. 82 161 200 241
161 240 279 320
200 279 318 359
241 320 359 400

练习2（第11页）

A 组

137 380 267
233 144 1100
826 270 600
176 832 811
189 126 561
1210 180 610
14 121 1220
257 236 690
107 120 400
1080 40 900
505 868 360
787 712 739
242 1221 545
431 114 490
27 520 864
1260 63 711

B 组

1. *c* *b* 570 30 154 71
236 164 181 319
2. 略。

练习3（第12页）

A 组

410 115 264
5 119 469
686 220 400
130 89 235
165 25 178
115 970 175
403 101 110
13 650 94
537 260 197
72 144 200
180 400 100
100 710 400
51 511 136
865 830 300
657 49 146
83 667 700

B 组

1. – 248 2780 – +
268 237 + 163
2. 500

练习4（第13页）

A 组

196 200 250
200 305 656
342 33 719
400 381 289
228 756 43
555 221 700
102 200 55
277 140 169
140 130 242
692 240 434
300 900 596
124 100 300
1120 288 935
153 532 190
1102 255 252
59 929 644

B 组

1. 略。（答案不唯一）
2. 110 525

练习5（第14页）

A 组

280 10200 3000
412 153 3000
369 8040 1400
4100 105 1400
6060 560 310

请沿此虚线裁剪下使用

关注微信公众号“教辅资料站”获取更多学习资料

7200	490	310
3900	25250	1800
1920	18900	1800
2135	3050	8100
1760	2595	8100
7520	49070	540
692	16000	540
4250	5400	630
1960	21700	630
37800	628	810
942	7200	810

B 组

1. a 4 25 b 342 8
125 21

2. 略。

练习 6（第 15 页）

A 组

9900	1263	2550
900	5060	2550
1480	64000	180
24030	2200	180
840	6300	400
2610	160000	400
5400	20250	2200
480	999	2200
400	3900	2000
2590	1020	2000
1840	8080	950
9800	2340	950
640	32000	900
2940	3246	900
18120	10200	1632
896	3680	1632

B 组

1. 38 25 23 27 7 73
10 42 58 68

2. (1)√ (2)×

练习 7（第 16 页）

A 组

85	3800	8500
36090	3240	4800
1800	3300	2288
880	2763	4500
1266	8800	6138
3066	8800	1500
2440	2800	3500
459	12080	8888
9500	7878	6000
9600	2400	1480
5680	6400	1600
108	640	2900
730	15300	9000
5800	252	4500
18210	2400	1620
492	6270	6400

B 组

100 3 100 2 100 29
105 100 63 1 63

练习 8（第 17 页）

A 组

1840	570	6
5	1260	4600
19000	30	5
7	980	4320
9900	2	4000
30	13	880
7800	14	75
9	3000	4600
100000	24	8
150	3600	520
9300	100	630
7	5	5400
4000	10	4
660	3366	4
14	550	100
3465	8	630

B 组

1. (1)25 × 4
(2)7500 ÷ 15 × 5
(3)9 ÷ 8

2. (1)2376 (2)1100

第 3 单元口算能力测试

（第 18 页）

A 组

359	274	15
6800	6300	535
2550	24	2200
512	9700	50
142	9600	6100
27000	425	722
225	10	4800
215	400	11000
3000	10	0
190	8787	145
600	30	300
270	240	10
19	469	1132
642	1620	25
2000	17	4896
850	854	1800

B 组

1. C 2. B

第 4 单元 练习 1（第 19 页）

A 组

1.4	1.2	>
1.5	7.5	>
3.5	1.8	>

请沿此虚线裁剪下使用

关注微信公众号“教辅资料站”获取更多学习资料

5.9	1.4	=
12.9	1.2	<
14.2	7.4	>
18.8	2.4	>
0.6	3.4	<
7.4	8.7	>
18.1	5.3	<
6.1	15.6	<
10.2	12	>
18.3	68.1	
10.8	46.8	
2.4	53.3	
15.5	54.4	

B 组

1. $\frac{8}{10}$ 0.8 $\frac{6}{10}$ 0.6

2. 0.09 0.009 0.9

$\frac{9}{10}$ $\frac{9}{100}$ $\frac{9}{1000}$

练习 2（第 20 页）

A 组

7.2	3.8	>
1.3	0.7	<
2.5	19.3	>
12.8	1.2	<
2.9	45	>
38	0.9	>
0.2	2.4	>
1.9	0.7	<
1	18.7	>
1.9	4.4	<
2.6	46.1	>
8.3	13.2	>
39.6	27.9	
21.6	68.6	
25.6	11.3	
27.8	31	

B 组

1. 8 4 5

2. 十 个 十分 百分

3. 9 4.62

练习 3（第 21 页）

A 组

40	42	>
1	1.8	<
33.6	76	<
0.6	1.7	>
0.2	10	<
23.4	5.4	<
0.4	14.8	>
22.4	13.9	<
25.2	5	>
5	3.3	<
0.9	3.3	<
6.8	7.4	>
0.4	1.2	
20.1	15.5	
4.5	63.1	
51.3	4.6	

B 组

1. 60.19

2. 零点九八五
   三百六十八点一二
   二十点零四
   十三点零五四

3. 72.03 3105.221
   15.28 300.206

练习 4（第 22 页）

A 组

45	10	<
10.7	1	>
51	40.3	<
0.5	6.6	<
27.7	1	>
2.3	13.2	>
12.8	3.7	>
11.2	81.8	>
75	2.5	<
5.4	11.4	>
90	27.4	<
20	96	>
3.9	45.4	
63.9	3.6	
6.6	42.2	
75.6	6.5	

B 组

1. 略。

2. (1)7.014 (2)40.17
   (3)4.701
   （答案不唯一）

练习 5（第 23 页）

A 组

196	4	700
34	3366	200
3000	16	98
642	5	4000
7	360	257
420	20	4950
168	300	6
196	1530	220
1640	18	570
90	1500	7000
3	5900	9898
851	1780	20
2	171	612
1800	7	1000
272	3328	980
539	1760	4

请沿此虚线裁剪下使用

关注微信公众号“教辅资料站”获取更多学习资料

B 组

1. 2.10　13.40　56.00
　7.10　8.30
2. 6.5　9.09　4　10.1
3. 略。

练习 6（第 24 页）

A 组

45	18800	3
460	770	35
299	200	5
1740	45	3120
64	3600	2400
200	4	90
200	2900	5
960	2079	200
16	750	260
956	15	143
230	6700	1236
4000	820	10
9797	355	56
675	50000	7700
4800	747	255
422	1540	1032

B 组

1. >　>　<　<　=　>
2. 略。

练习 7（第 25 页）

A 组

77	540	600
59	730	3300
3535	300	50
844	1500	400
2700	1782	3400
3000	4	606
148	1300	240
6	950	5
279	237	4590
220	5	600
100000	840	300
308	705	2800
8	2600	160
3570	1103	9
2200	164	780
2049	19	1600

B 组

1. 略。
2. （1）13.98　14　14.01
　14.09　14.10
　（2）0.009　0.099　0.9
　0.909　0.99

练习 8（第 26 页）

A 组

17.3	540	2.68
1.6	0.1546	9
59.1	173	0.0759
1.3	71	0.1317
15.2	6.64	346
5.2	3800	0.0546
15	0.001	832
4.4	0.04	9.6
1.8	182	0.005
5.4	8.67	9
3.7	1530	9.02
53	0.05	405
12.9	8.9	0.6
88.9	0.0452	13.4

B 组

1. ×　100　÷　10　×
　1000　÷　10　×　1000
　÷　10
2. 49　4.9　0.51　510　125
　1.25　0.269　2.69

练习 9（第 27 页）

A 组

10.2	90	0.192
10	0.71	190
1.8	2540	0.4289
57.4	0.089	255
20.2	6080	0.468
50.5	1.73	86
25.4	3090	8.198
16	0.505	3800
2	666	1.008
19.3	0.0806	5.06
22.4	5.4	3.78
44.2	0.051	794
12.3	236.5	0.15
52.1	0.0321	678
5.4	10.8	0.9003
40.1	6	0.547

B 组

1. （1）0.501　（2）6.04
　（3）0.99　（4）$\frac{1}{1000}$
2. 1.648　52　1.2

练习 10（第 28 页）

A 组

61.5	0.808	450
0.8	130	0.308
0.8	0.4028	1120
10	30.8	0.001
18	0.051	609
0.5	540.3	0.136
11.5	0.0621	1200.2
0	119.8	2.75
0.5	0.801	8008
7.3	20250	6.908
11	0.0175	137

请沿此虚线裁剪下使用

关注微信公众号“教辅资料站”获取更多学习资料

21.8	8.1	70.6
12.6	56	80.1
6.4	0.318	700
64.3	24.6	0.153
30.6	0.0189	542

B 组

1. 0.319　0.319　3190
　×100　×10　÷10

2. (1)0.092　(2)0.4
　(3)75

练习 11（第 29 页）

A 组

25	0.367	1.34
467	0.0356	2.3
4800	0.0789	0.35
890	0.58	0.98
560	0.236	0.263
568	0.067	0.86
8009	0.06804	0.89
11870	0.0345	0.04
349	0.0899	0.134
489	0.578	0.045
6600	9.01	67
945	0.069	0.06
120.9	0.0387	0.5
7100	0.95	0.06
1288	0.5	0.8
18	0.0633	0.518

B 组

1. 8.04　2.25　2.3　5.25
　6.05　4.7　5.2　8.03
　5.09

2. (1)680 g　5.9 kg　67 kg
　7.08 t　7.8 t
　(2) 6.9 dm　0.89 m
　78 dm　87 dm　5.9 km

练习 12（第 30 页）

A 组

13300	3.46	7800
0.456	5900	6500
390	0.0056	450
0.609	4670	584
45870	0.5609	79
0.63	67	2030
11	0.0672	37
0.125	890	7870
45	5.68	250
0.501	5930	1050
80	0.99	89
0.0123	6901	9080
490	5.5	401
4.28	190	670
6124	0.183	1300
0.0673	60.9	32

B 组

1. 2　3　4　250
　3　5　5　9
　6　8　4　6

2. >　>　<　>　>　=

练习 13（第 31 页）

A 组

123	0.207	0.65
0.59	900	3.72
12890	0.234	12.01
0.012	3720	0.68
2900	0.239	1.08
0.0234	1190	8.45
789	0.096	5.26
0.07809	14650	17.02
7.8	0.568	2.10
0.789	13	11.01
16730	0.0809	0.53
0.901	3409	10.00
586	1.964	13.10
0.01008	123	

B 组

1. 9　8.9　8.87
　1　0.8　0.80
　5　4.9　4.88

2. 4　5　11　12
　6　7　0　1

练习 14（第 32 页）

A 组

9	5.3	18.7
9.3	24	23.4
52.3	31.8	32.87
17.6	9.3	2.4
12.1	24.7	3.2
9	14	3.599
28.9	25.6	3.6
40	21.6	78.9
20.4	0.3	0.12
8.3	39	17.9
15.6	2.5	5.6
10.2	81.6	34.5
21.1	35.9	1.204
59	10.9	6.71
17.3	45.5	3.7089

B 组

1. 1.12　14.56　3.46
　8.92　32.82　67.35

2. (1) ×　(2) √

练习 15（第 33 页）

A 组

8.98	=	890
0.81	>	3900
11.91	>	3.4
6.49	=	1.46

请沿此虚线裁剪下使用

关注微信公众号“教辅资料站”获取更多学习资料

7.97	<	5020
3.76	>	6300
0.90	=	89
9.08	<	1530
1.06	=	6.5
17.01	>	8500
2.00	>	0.3
50.10	>	0.35
98.10		6.08
		250

B 组

1. 2670　8900　98　8　450

2. 56　100

3. 10

4. 80.08　八十点零八

第 4 单元口算能力测试

（第 34 页）

A 组

5.7	790	6790
4.4	1.24	0.0213
26.9	0.094	12.3
5.3	11900	0.132
14.8	74.5	32400
4.4	0.0136	0.0234
70	4.36	18.9
19.9	83	0.0194
9.8	5.678	823
18.7	61	5.69
79.7	1.882	245
9.7	507.9	0.0792
65.9	0.1009	23
60.2	0.697	0.05
62.6	190	0.4503
10	315	1960

B 组

1. 5.6　5.7　7.3　7.4

　2.3　2.4　1.4　1.5

2. =　>　>　<

第 5 单元　练习 1（第 35 页）

A 组

295	442	7666
531	220	6867
826	578	1700
93	367	9000
746	420	996
633	262	4437
761	555	3144
642	605	6576
592	611	1170
401	948	6442
375	431	5000
634	947	8800
810	329	3809
337	258	8556
1101	378	2355
432	894	2200

B 组

1. 略。

2. 略。

练习 2（第 36 页）

A 组

870	290	1302
31	2680	325
1350	460	1020
9	1560	20
32	230	4900
35050	65	20
184	42140	72270
469	4340	68
6000	13	8
4	5200	10180
9	2800	1230
41	7	71
72	49	335
185	7	8

B 组

√　√　×　×

练习 3（第 37 页）

A 组

8383	237	108
189	17000	310
342	110	1300
2700	1500	1100
240	5600	5
8	6	600
18	400	3468
1530	1900	1200
7	5600	108
235	5900	2828
740	6700	680
159	8500	890
45	3	9
130	365	13
5	65	12
179	278	156

B 组

略。

练习 4（第 38 页）

A 组

108	200	1365
390	67000	167
4500	100	142
900	7676	2525
0	4300	60
700	8	10
3672	400	36
6000	2100	5400

请沿此虚线裁剪下使用

关注微信公众号“教辅资料站”获取更多学习资料

2300	2	3
6767	7600	245
680	5200	740
890	8600	159
21	6	34
10	365	330
6000	4300	9
6400	316	260

B 组

1. (1) 80° (2) 60° (3) 80°
2. 30°

练习 5（第 39 页）

A 组

909	82	2200
3	15	301
1410	711	5
0	1260	723
15	243	4770
1900	5800	7
1009	2600	3100
370	6	10500
500	6900	652
1740	3	16
303	3900	521
1800	39	100
4	909	3690
479	4950	10
4000	578	760

B 组

1. 81° 59° 30°
2. 360°
3. 100°

第 5 单元口算能力测试

（第 40 页）

A 组

119	300	1200
8500	2650	8383
2700	1300	320
600	7878	600
325	580	362
130	9	6
300	8	1000
8500	3468	2000
18	7800	9600
4800	143	138
3800	175	128
7373	237	10600
25	88	5
188	12	4200
303	1530	505

B 组

1. 45°
2. 13
3. (1) × (2) × (3) × (4) √

第 6 单元 练习 1（第 41 页）

A 组

33.5	18.5	4.6
34.6	22.4	14.8
25.3	33.4	29.4
6.4	90	25
26.3	1.2	14.2
8.1	21.3	121.2
35.3	10.6	3.8
2.2	121.9	19.4
12.6	8.7	13.7
0.5	99.2	75.2
36.7	31.5	22.1
100	49.4	20.5
21.5	8.9	46.1
15.6	91.2	16.2
2.5	25	43.2

B 组

1. 1 6 6 9 3 6
2. 14.53 12.3 5.9 8.8 24.77 13.4

练习 2（第 42 页）

A 组

8.3	25.6	2.1
7.9	21.9	79.1
10.1	4.3	3.1
3.4	11.7	79.7
80.7	22.4	0.5
0.1	28	189
27.8	0.2	46.2
4.5	10.2	109.3
13.7	3.6	30.8
1.6	20.2	10.6
13.9	5.5	7.5
67.2	12.9	351.9
3.3	14.9	13.7
18.2	9.6	38.4
34.6	2.5	4.4

B 组

0.35 18.05
14.02 59.01

练习 3（第 43 页）

A 组

5.9	9.7	12.3
1.4	4.1	10.8
10.8	0.98	10.5
7.3	4.5	15.9
7.8	9.9	51
4.5	0.18	44.8
28.66	9.8	1.68
7	99.79	4.4
6.9	6.6	6.55

请沿此虚线裁剪下使用

关注微信公众号“教辅资料站”获取更多学习资料

2.44 3.1 11.87
9.9 1.33 7.1
7.22 159.8 6.24
15.38 9.16 78.4
4.8 13.6 4.14
19.95 2.25 87.3
2.2 25 33.12

B 组

1.（1）6.475 6.478
（2）0.9 1.1
（3）2.32 2.37
（4）8.659 8.657
2. 7. 83 1. 47 11. 1 2. 16

练习 4（第 44 页）

A 组

10.6 6.42 24
0.7 10.12 9
10.5 10.3 52
3.8 129.9 46.2
12.9 13.13 15
9.22 10.47 32.8
36.21 56.78 13.6
4.14 9.1 21
114.7 3.89 9.03
13.2 67.96 47
130 5.19 34
40 11.9 40
27.6 6.35 20.86
5.7 15.85 38.46
56.44 4.03 7.03
14.1 20.69 6.53

B 组

17.08 17.15 17.1

练习 5（第 45 页）

A 组

4.2 1.4 24
4 1.23 41.2
5 8.7 20.3
2.8 19.7 23.56
6.7 37 21.1
4.2 23.9 76.2
11.6 6.22 10
4.36 12.43 66
0.22 64.9 33
11.45 21 32
4.23 5 28
28.2 8.58 2
13.25 17.64 14.5
0.95 4.96 1
8 1.19 2.37
15.49 6.87 28.64

B 组

1. 32
2. 3.5
3. 0.07

练习 6（第 46 页）

A 组

19.68 9.8 44.8
25.67 10 10.9
5.67 32 88.7
7.13 9.1 11.1
1.03 19.5 4.6
13.3 6.8 1.8
14 12.2 10.3
4.3 11.66 1.67
1.4 1.98 11.4
13.8 3.5 5.6
70.3 8 3.78
23.5 2.1 18.34
6.58 30.7 1
9.58 3.08 21.6
7.75 9.79 7.34
28.5 19.13 2

B 组

1. 略。
2. 0.93 0.76 0.17 0.4
0.6 0.46 0.54

第 6 单元口算能力测试

（第 47 页）

A 组

38.2 61.2 16.4
16.8 14.3 5.7
13 10.93 2.3
7.06 8 4.87
25 54.33 7.02
1.2 69.01 1.47
22.2 97 1.2
1 40 0.45
35 2.3 5.4
12.03 1 7.1
5.2 7.01 11
1 3.77 17
12.4 4.77 30.24
11.23 25.53 60
44.2 45.24 16.1

B 组

1. 1.3 18.67 0.26 3.11
11. 1 4.5
2. > < > <

第 7 单元 练习 1（第 48 页）

A 组

5.2 4.45 3.44
19.81 1.3 2.2
9.05 1.46 45.37
1.39 6.49 3.25
10.75 19.32 9.7
2.32 52.42 2.06

请沿此虚线裁剪下使用

关注微信公众号“教辅资料站”获取更多学习资料

26.01	50	14.3
32.6	98.15	3.6
15.4	3.25	13.72
2.46	7.79	3.65
43.53	7.1	26.95
34.1	80	0.51
12.5	21.98	3.21
35.8	1.83	5.96

B 组

1. 略。

2. 略。

练习 2（第 49 页）

A 组

4.9	44.04	4.5
6.36	2.65	1.95
4.76	13.3	5.59
6.39	7.2	51.86
8.8	4.38	44.5
24.38	3.09	15.93
56.8	12	39
21.2	48.81	42.47
13.2	19.2	2.52
35	25.3	30.57
34.2	26.1	7.73
49.25	26	11.3
47.62	24.4	11.21
21.45	5.66	49.84
4.24	19.66	17.5
44.87	32.42	68.17

B 组

略。

练习 3（第 50 页）

A 组

2.5	2.2	12.04
5.35	3.67	9.32
11.58	8.32	19.29
0.12	4.67	3.05
50.24	3	80.8
24.4	4.45	0.09
1.46	1.2	14.11
3.08	21.4	150.9
1.7	6.08	11.85
0.84	0.18	16.29
0.08	77	5.7
4.09	23.31	12.6
27.4	9.2	9.63
6.31	54.4	17.14
72.2	6	1.03
17.28	60.5	12.73

B 组

1. ③

2. 9

练习 4（第 51 页）

A 组

31.9	1.21	44.9
5.3	19.55	3
46	11.8	10.5
45.2	87.73	5.88
22.5	9.1	4
22.88	18.99	0
8.86	55.5	45.1
130.1	28.2	3.74
35.72	2.21	32.2
22.26	23.49	1.31
42.98	14.15	6.2
13.19	10.23	99.78
12.2	10.23	2.24
41.66	7.86	11.78
2.65	23.01	11.5
24	6.35	28.9

B 组

略。

第 7 单元口算能力测试

（第 52 页）

A 组

0.35	0.93	15
1	7.58	8.4
4.58	6.61	17.73
5.03	6.67	20.6
4	11.02	38
11.46	20.18	31.9
42.25	12.55	28.1
0.3	24.5	0.22
8.95	29.05	0.6
1.94	22.91	28.07
27.03	6.89	9.61
2.65	1.55	4.6
8.22	56.96	64.2
10.32	5.3	2.81
11.78	16.54	26.45
32.15	9.28	36

B 组

略。

第 8 单元 练习 1（第 53 页）

A 组

31	63	91
51	22	6
61	28	50
56	16	271
120	17	7
210	18	1000
75	20	61
73	310	160
55	17	1
10	14	60
110	11	220
31	71	130

请沿此虚线裁剪下使用

关注微信公众号“教辅资料站”获取更多学习资料

47 43 260
19 115 265
206 58 126

B组

1. 140 66 30
2. 90

练习2（第54页）

A组

68 51 952
157 608 701
401 221 222
1480 62 555
600 560 263
11 486 560
270 181 3900
156 358 232
340 968 152
224 153 1820
1000 9200 15
746 123 7000

B组

略。

第8单元口算能力测试

（第55页）

A组

82 186 132
437 7 310
96 706 15
660 210 6464
12 2620 101
3540 6 428
50 440 50
20 2032 391
0 17 1020
81 490 342
613 32 117
1845 0 92

B组

统计图略。

1. 11 11 2. 40

第9单元 练习（第56页）

A组

286 0.86 1380
1.33 7400 5
5.7 4.3 5600
2100 109.9 120
3 6 5
22.65 60000 880
904 16.94 4
250 42.8 833
26 29.52 780
5 27.37 1600
2.3 550 512
1740 8 10
1008 12.64 3570
779 160 2730
2300 18 12
4770 9.9 3

B组

略。

第9单元口算能力测试

（第57页）

A组

1100 4.39 1400
15 1.9 881
300 7272 2800
200 5 30
630 8.99 198
100 2100 18.9
1 30.97 6800
2960 21.86 16
3100 46.01 680
880 19.94 6300
2000 24.7 24.2
10 8470 4
4700 20.1 10
810 3 4400
1450 25.65 7
100 112 1540

B组

6 3
6 9 54 54 48 6 6
4 2 6 2 3 9 3 6

第10单元 练习1（第58页）

A组

570 69 11
338 13400 66
18 420 8900
634 17 400
1007 60 11
12 42 7
900 92 1
791 31 0
1420 59 8
56 0 17000
790 43 88
200 162 10
8040 2820 60
852 206 6900
303 9800 20
1155 24 814

B组

1. + − + ÷ ÷ +
   − ÷ + −
2. 略。

练习2（第59页）

A组

602 610 290

请沿此虚线裁剪下使用

关注微信公众号“教辅资料站”获取更多学习资料

151	6	750
655	71	8
851	2460	279
54	125	401
2546	8400	655
1480	939	630
165	161	1800
617	18000	303
325	27	6
2187	5200	21
173	113	4
1090	5656	11

B 组

1. ①②④⑤⑥
2. ②⑤
3. ①②③④⑤⑥

练习 3（第 60 页）

A 组

138	300	19000
165	160	8
108	290	1
130	276	700
1670	134	230
150	200	8
50	18	10
78	32100	25
611	1190	810
1540	18	760
158	400	3400
275	3200	46000
1500	301	216
929	9000	169
2790	3	2500
1042	8	1620

B 组

1. 略。　2. 略。

练习 4（第 61 页）

A 组

6.8	660	2340
4.4	0.077	1.21
7.6	128	23410
6	900	0.013
10.8	0.0784	12230
1	0.532	0.413
6.5	3.41	627
1	1270	0.132
8.4	0.412	890
2.1	43	0.0324
7.9	0.0101	0.6
2	320.4	0.1123
7.7	5.61	2030
2.5	0.09	0.976

B 组

1. (1) >　=　(2) >　<
2. (1)5,6,7,8,9
   0,1,2,3,4
   (2)0,1,2,3,4
   5,6,7,8,9

练习 5（第 62 页）

A 组

542	800	2030
7	8484	25
278	3600	4
1550	15	311
2700	647	356
24	9000	1020
5	569	4800
8900	16	727
450	1220	547
934	5600	13
990	87	259
7	2600	4
200	276	2840
4	2600	2
880	990	9900
1020	7	1154

B 组

略。

练习 6（第 63 页）

A 组

6.8	50.5	10
16.97	4.37	2
31.33	13.41	11.2
17.03	5.2	13.1
0.73	21.85	15.12
7.71	4.31	4.71
11.41	47.21	6
1.06	24.7	15.26
12.87	100.6	9.6
5.4	9.5	19
75.8	82.6	101
10.09	37.25	30.07
34.4	72.1	33.7
10.5	20.4	3
25.55	53.6	43
13.7	21.3	14

B 组

1. 6.68　7.08
2. 11.464　11.459
3. 6.38　7.88
4. 6.786　6.766

练习 7（第 64 页）

A 组

225	19	33.6
3.64	7600	2
607	5.02	0
35.7	388	5.2
369	2.65	0.83
670	2.87	4
12.3	767	4.02
10.07	411	18.91

请沿此虚线裁剪下使用

关注微信公众号“教辅资料站”获取更多学习资料

331 22.9 63
1808 9.1 27.3
17.26 4409 1.6
1.63 9.24 4.29
333 227 9.06
697 552 33
9.11 349 70
458 49.21 12.4

B 组

略。

练习 8（第 65 页）

A 组

780 40 897
272 580 206
91 232 840
1259 140 189
999 21 426
202 500 24
22 244 588
900 336 353
888 20 14000
939 224 21
189 418 3150
200 154 928
344 653 345

B 组

略。

练习 9（第 66 页）

A 组

1512 720 1.34
1400 4 200
48 1.56 900
200 10 14.12
31 1500 6.7
2400 7600 6
0.91 513 310
5000 17 3672
68 7 1900
13.14 2200 10
293 22.35 6
3 790 1400
6 1 87
12 4500 9
1231 333 338
12.4 13.4 735

B 组

100 100 68 32 10 6
16 32 16 2 10 2 8
2 8

口算能力期末综合测评（一）

（第 67 页）

480 20 680
20 515 960
143 3900 20
13 4840 19
900 33 834
14 1180 4000
1080 20 100
82 5 14
2450 65 840
600 258 156
18 6300 2500
60 345 4
1540 589 529
509 21 700
600 270 9
30 356 150
29 5600 284
450 74 125000
18 420 4400
10 1080 509
516 3000 16000
51 112 134
860 700 2300
553 211 400

口算能力期末综合测评（二）

（第 68 页）

16.6 12.24 32.09
1.5 21.81 1.76
18.54 3.33 6.7
6.6 16.34 24.43
8.98 8 17
0.88 67 49
5.05 12.07 27.3
14.1 49.5 21
2.08 11.8 0.51
11.8 53.7 26
7.8 3 14.9
40.6 11.4 4.58
1.1 5.4 6
1.13 10.75 6.44
7.91 14.87 30
1.21 2.01 55.7
9.9 13.3 49.31
14.96 20.2 36.4
41.31 7.2 12
19.19 21 22.14
30.51 16 1.7
22.34 15.23 53
10.6 10.9 9
2.12 11.84 22.5

请沿此虚线裁剪下使用

关注微信公众号“教辅资料站”获取更多学习资料



口算脑算用心算
巧算速算不难算

荣德基官方网站:
http://www.rudder.com.cn

荣德基天猫旗舰店:
http://rongdeji.tmall.com

荣德基小学频道
获取最新教育资讯

荣德基教育APP
让教和学变得简单

ISBN 978-7-5336-8985-8
9 787533 689858
定价:21.90元

关注微信公众号“教辅资料站”获取更多学习资料