荣德基小学系列

教辅资料站

电子教辅　试卷练习
知识总结　备课资源

扫码关注获取更多学习资料

星级口算天天练

四年级 数学 下（BS版）

主 编：荣德基　本册主编：吴路艳

荣德基星级口算天天练



学 校：

班 级：

姓 名：

喜欢的格言：

APOTIME 时代出版
时代出版传媒股份有限公司
安 徽 教 育 出 版 社

CONTENTS

目录

第一单元　小数的意义和加减法

练习 1　小数的意义（一）…… 1
练习 2　小数的意义（二）…… 2
练习 3　小数的意义（三）…… 3
练习 4　习题课 …… 4
练习 5　小数的性质 …… 5
练习 6　比大小 …… 6
练习 7　买菜 …… 7
练习 8　比身高 …… 8
练习 9　习题课 …… 9
练习 10　歌手大赛 …… 10
练习 11　习题课 …… 11
第一单元口算能力测试 …… 12

第二单元　认识三角形和四边形

练习 1　图形分类 …… 13
练习 2　三角形分类 …… 14
练习 3　习题课 …… 15
练习 4　三角形内角和 …… 16
练习 5　三角形边的关系 …… 17
练习 6　四边形分类 …… 18
练习 7　习题课 …… 19
第二单元口算能力测试 …… 20

荣德基 星级口算天天练
微信公众号 教辅资料站

关注微信公众号“教辅资料站”获取更多学习资料

第三单元　小数乘法

练习1　买文具 …… 21
练习2　小数点搬家 …… 22
练习3　习题课 …… 23
练习4　街心广场 …… 24
练习5　包装 …… 25
练习6　蚕丝 …… 26
练习7　习题课 …… 27
练习8　手拉手 …… 28
练习9　习题课 …… 29
第三单元口算能力测试 …… 30



整理与复习

整理与复习 …… 31



第四单元　观察物体

练习1　看一看 …… 32
练习2　我说你搭 …… 33
练习3　搭一搭 …… 34
练习4　习题课 …… 35
第四单元口算能力测试 …… 36

第五单元　认识方程

练习1　字母表示数（一） …… 37
练习2　字母表示数（二） …… 38
练习3　习题课 …… 39
练习4　等量关系 …… 40
练习5　方程 …… 41
练习6　解方程（一） …… 42
练习7　解方程（二） …… 43

荣德基星级口算天天练
微信公众号 教辅资料站

关注微信公众号“教辅资料站”获取更多学习资料

练习 8　猜数游戏（一）…… 44
练习 9　猜数游戏（二）…… 45
练习 10　习题课 …… 46
第五单元口算能力测试 …… 47



数学好玩

练习 1　密铺 …… 48
练习 2　奥运中的数学 …… 49
练习 3　优化 …… 50



第六单元　数据的表示和分析

练习 1　生日 …… 51
练习 2　栽蒜苗（一） …… 52
练习 3　栽蒜苗（二） …… 53
练习 4　平均数 …… 54
练习 5　习题课 …… 55
第六单元口算能力测试 …… 56

总复习

练习 1　小数的意义和加减法 …… 57
练习 2　认识三角形和四边形 …… 58
练习 3　小数乘法 …… 59
练习 4　观察物体 …… 60
练习 5　认识方程 …… 61
练习 6　数据的表示和分析 …… 62
口算能力期末综合测评（一） …… 63
口算能力期末综合测评（二） …… 64
口算能力期末综合测评（三） …… 65
口算能力期末综合测评（四） …… 66
参考答案 …… 67

荣德基星级口算天天练
微信公众号 教辅资料站



关注微信公众号“教辅资料站”获取更多学习资料

难易等级：

整理与复习

用时：___分___秒　错误：　个

A组 常规口算题

2.4 × 8 =	4.25 × 4 =	4.6 × 0.4 × 2.5 =
0.6 × 17 =	0.07 × 0.5 =	3.7 × 4.3 − 2.7 × 4.3 =
0.16 × 5 =	33 × 0.04 =	12.5 × 2.7 × 0.8 =
0.59 × 2 =	6.5 × 4 =	1.08 × 9 + 1.08 =
6.8 × 0.1 =	2.3 × 0.06 =	12.5 × 32 × 0.25 =
9.7 × 0.2 =	15 × 0.08 =	25 × 0.9 × 0.4 =
0.3 × 0.39 =	0.09 × 0.9 =	2.5 × 32 =
0.17 × 4 =	4.7 × 0.1 =	4.2 × 6.51 + 3.49 × 4.2 =
8.4 × 8 =	54 × 0.8 =	25 × 7.3 × 0.4 =
4.8 × 8 =	1.6 × 0.03 =	12.5 × 56 =
8.6 × 0.3 =	0.8 × 0.9 =	5 × 1.03 × 0.2 =
0.08 × 10 =	0.6 × 100 =	0.8 × 0.2 × 5 =
3.2 × 0.9 =	17.5 × 0.01 =	0.5 × 0.61 × 0.2 =
0.017 × 7 =	3.2 × 0.5 =	7 × 2.5 × 0.04 =
2.14 × 2 =	25 × 0.4 =	(20 − 4) × 0.25 =
1.04 × 0.8 =	6 × 6.5 =	54 × 2.1 − 50 × 2.1 =

B组 变式口算题

◆ 判断。(对的画“√”,错的画“×”)

1. 三位小数一定比两位小数大。（　）
2. 正方形既是特殊的长方形,又是特殊的平行四边形。（　）
3. 因为 20 × 24 = 480,所以 0.2 × 0.24 = 0.48。（　）
4. 把一个数缩小到原来的 $\frac{1}{100}$ 是0.999,这个数原来是 99.9。（　）
5. 如右图,被信封遮住的一定是锐角三角形。（　）

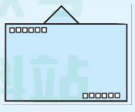

荣德基星级口算天天练

关注微信公众号“教辅资料站”获取更多学习资料

第四单元 观察物体

练习1 看一看

用时：___分___秒　错误：　个

A组 常规口算题

0.05 ×4 =	9.2 −6 =	450 +780 =
430 −250 =	8500 ÷500 =	3.1 +0.3 =
4 ×0.3 =	3.2 −3.2 =	3 +0.3 =
0.17 +0.06 =	3.7 +2.3 =	630 ÷9 =
1.02 −0.09 =	25 ×100 =	4.5 −0.4 =
7200 ÷800 =	4.2 −0.42 =	9.5 −5 =
0.17 +0.6 =	2 +2.8 =	330 ×9 =
0.83 −0.6 =	380 −290 =	9.53 −1.53 =
0.17 ×300 =	0.53 +0.7 =	0.35 ×0.2 =
0.98 −0.09 =	0.35 +0.63 =	0.3 +0.27 =
0.2 +0.78 =	3500 ÷70 =	7.5 ×0.1 =
600 ×0.7 =	3.1 +3 =	4 −0.6 =
10.2 +0.02 =	3.8 +0.38 =	2.5 ×2 =
0.15 +0.7 =	7500 ÷250 =	0.47 +0.13 =
670 +250 =	3.8 +10 =	0.5 ×10 =
10.2 +0.2 =	0.95 −0.05 =	4.5 +4 =

B组 变式口算题

◆ 连一连。

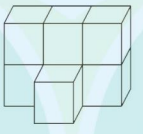

从正面看　从上面看　从左面看

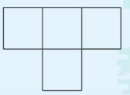

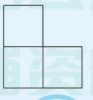

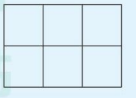

荣德基星级口算天天练
微信公众号 教辅资料站

关注微信公众号“教辅资料站”获取更多学习资料

练习2 我说你搭

用时：___分___秒 错误：　个

A组 常规口算题

2.5 ×8 =	0.9 ×0.3 =	0.4 ×50 =
1 −0.61 =	0.25 +0.75 =	3.25 ×0 =
0.8 ×7 =	5 ×0.6 =	2.3 ×4 =
0.47 +0.23 =	10 ×0.05 =	2.6 ×9 =
1.32 ×8 =	0.51 +0.33 =	7.5 ×0.1 =
1.5 ×7 =	0.13 ×7 =	8.8 −6.7 =
0.7 ×8 =	6.45 +5.5 =	0.45 ×0.2 =
3.7 +0.33 =	0.35 ×0.6 =	4.1 ×2 =
10.3 ×2 =	0.8 ×1.1 =	1.2 +0.8 =
7.2 ×0.8 =	0.02 ×0.5 =	3.5 ×0.01 =
8 −4.6 =	4.5 −1.3 =	9 ×0.5 =
6 ×3.4 =	6.9 ×0.1 =	9.5 −7.3 =
5.8 −3.6 =	7.2 +0.8 =	2 ×7.8 =
1.4 ×0.5 =	0.7 ×4 =	7.23 −1.23 =
0.52 +0.4 =	0.05 ×4 =	4.5 ×2 =
3.5 ×0.2 =	12.5 ×8 =	8.5 −5.8 =

B组 变式口算题

◆ 画出下面物体从正面、左面和上面看到的图形。

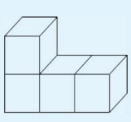



正面



左面



上面

荣德基星级口算天天练

关注微信公众号“教辅资料站”获取更多学习资料

练习3 搭一搭

用时：___分___秒 错误：　个

A组 常规口算题

0.95 +0.05 =	0.82 +0.3 =	6 ×3.4 =
2.5 +3.2 =	13.5 +6.5 =	0.62 −0.32 =
23 ×100 =	3.05 ×100 =	0.75 ×100 =
9.8 −4.8 =	1.2 −0.8 =	0.76 +0.14 =
480 ÷40 =	0.4 ×50 =	0.13 ×0.5 =
5.1 +2.3 =	21.6 −12.6 =	2.7 +0.4 =
12.5 ×80 =	30 ×0.1 =	3.6 ×0.3 =
0.52 +0.4 =	2.6 ×3 =	0.72 −0.43 =
70 ×0.12 =	0.83 −0.5 =	30 ×100 =
0.25 ×100 =	4.1 ×0.02 =	0.92 −0.2 =
3.4 −2.8 =	4.7 +2.3 =	0.125 ×8 =
0.6 −0.37 =	0.6 ×8 =	3.5 +4.8 =
0.052 ×10 =	2.8 ×10 =	2.3 ×4 =
10 +0.08 =	0.7 ×0.8 =	3.5 +2.4 =
1 −0.75 =	5.6 +0.4 =	0.7 ×9 =
0.5 ×1000 =	7.2 ×2.2 =	5 +0.07 =

B组 变式口算题

1. 下面哪个几何体符合要求，在下面的(　　)里画“√”。



从正面看　　从上面看　　(　　)　　(　　)　　(　　)

2. 右边的图形是从(　　)面看到的。

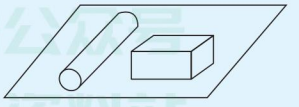



荣德基星级口算天天练

关注微信公众号“教辅资料站”获取更多学习资料

练习4 习题课

用时：___分___秒　错误：　个

A组 常规口算题

1.5 ×70 =	3 ×1.6 =	1.57 +0.6 =
1.8 ×0.3 =	13 ×0.7 =	0.31 ×3 =
20.5 +0.7 =	4.2 ×20 =	1.2 ×0.8 =
2.6 ×0.03 =	1.8 ×0.04 =	0.9 ×12.1 =
5.13 ×4 =	1.2 ×0.6 =	1.57 ×2 =
7.1 ×50 =	2.57 +1 =	0.97 ×0.6 =
30 ×2.5 =	4.05 ×3 =	0.46 ×10 =
5.24 ×0.2 =	2.03 ×80 =	4.3 −2.7 =
2.15 +6.2 =	0.34 ×0.7 =	2.9 ×0.6 =
4.7 ×0.05 =	10.5 ×0.4 =	9.2 ×0.3 =
32 ×0.03 =	0.38 ×0.5 =	30.1 ×0.3 =
3.7 −1.9 =	0.4 ×520 =	1.03 ×5 =
0.08 ×0.06 =	55 ×0.6 =	1.03 ×0.5 =
1.08 ×0.2 =	4.28 −3.9 =	0.3 ×5.21 =
8 ×2.5 =	46.3 ×0.3 =	10.3 ×0.5 =
2.58 +1.32 =	1.25 ×700 =	0.3 ×0.21 =

B组 变式口算题

◆ 下面三个物体从(　　)面看到的形状相同，画出看到的相同形状。

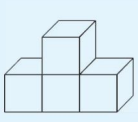

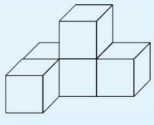


荣德基星级口算天天练
微信公众号 教辅资料站

关注微信公众号“教辅资料站”获取更多学习资料

第四单元口算能力测试

用时：___分___秒　错误：　个

A组 常规口算题

9.4 ×0.2 =	4.4 ×0.02 =	1.3 ×0.7 =
0.79 ×2 =	8.3 ×0.5 =	4.9 ×0.4 =
0.5 ×8.1 =	0.9 ×1.5 =	3.7 ×0.4 =
4.5 ×0.6 =	3.6 ×0.02 =	0.4 ×0.03 =
6.5 ×0.9 =	9.4 ×0.3 =	2.7 ×3 =
0.06 ×1.9 =	4.8 ×0.02 =	0.25 ×0.4 =
0.14 ×7 =	7.8 ×0.3 =	1.6 ×0.5 =
3.9 ×70 =	0.03 ×20 =	0.18 ×0.17 =
0.8 ×5 =	65 ×0.04 =	0.17 ×100 =
1.6 ×0.7 =	2.9 ×0.04 =	30 ×2.3 =
2.8 ×0.3 =	1.2 ×0.08 =	1.36 ×2 =
0.8 ×9.7 =	9.6 ×4 =	0.4 ×0.8 =
9.4 ×5 =	0.08 ×6.1 =	3.5 ×200 =
90 ×0.1 =	6.5 ×50 =	1.9 ×0.9 =
0.2 ×7.5 =	0.03 ×3.5 =	4.3 ×0.4 =
0.04 ×2.5 =	0.15 ×7 =	0.06 ×7.6 =

B组 变式口算题

◆ 下面是用小正方体搭建的一些几何体。



1. 从正面看是  的有(　　)，是  的有(　　)。

2. 从上面看是  的有(　　)，是 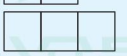 的有(　　)。

3. 从左面看是  的有(　　)，是  的有(　　)。

荣德基星级口算天天练
微信公众号 教辅资料站

关注微信公众号“教辅资料站”获取更多学习资料

难易等级：

练习1 字母表示数（一）

用时：___分___秒　错误：　个

A组 常规口算题

12.5 ×8 =	8.5 +1.7 =	1.73 +2.1 =
0.16 ×4 =	2.73 ×0.3 =	0.25 ×40 =
6 +0.3 =	1.5 ×4 =	0.8 ×64 =
0.12 ×3 =	3.9 +1.3 =	2.5 ×0.8 =
7.5 +2.7 =	67 ×0.3 =	12 −10.5 =
0.09 ×9 =	3.1 ×0.3 =	1.8 ×9 =
1.5 −0.7 =	8 −0.5 =	2.8 ×0.3 =
4.8 ×0.2 =	0.92 +0.4 =	12 ×0.08 =
0.125 ×8 =	2.7 ×4 =	1.3 +2.7 =
37.2 +1.9 =	0.56 −0.28 =	4 −3.18 =
0.02 ×0.3 =	100 ×0.01 =	32 ×0.8 =
2.73 −0.8 =	4.2 ×0.1 =	4.7 ×3 =
0.37 ×2 =	23 ×0.01 =	12 −9.3 =
2.4 ×0.3 =	3.74 +10 =	1.4 ×0.5 =
4.8 ×40 =	0.5 ×8.4 =	0.13 ×0.5 ×2 =
1.47 +2.58 =	9 −4.3 =	2.1 ×0.5 ×2 =

B组 变式口算题

◆ 用小棒按如下方式摆六边形。

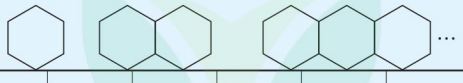

六边形/个	1	2	3	4	5	…	10
小棒/根	6					…	

1. 摆 12 个六边形需要(　　)根小棒。

2. 当有 20 个六边形时，小棒的根数是(　　)。

3. 156 根小棒可以摆(　　)个六边形。

荣德基星级口算天天练

微信公众号 教辅资料站

关注微信公众号“教辅资料站”获取更多学习资料

练习2 字母表示数（二）

用时：___分___秒 错误：　个

A组 常规口算题

0.63 ×9 =	1.8 ×0.4 =	17.7 −2.9 =
0.75 ×4 =	1.3 ×30 =	0.8 ×0.21 =
1.21 +1.1 =	6.28 −0.28 =	1.7 ×0.03 =
0.23 ×3 =	0.13 ×9 =	18 +5.09 =
0.3 +5.7 =	1.2 ×80 =	0.21 ×0.4 =
0.01 ×0.1 =	4.36 −1.3 =	4 ×0.9 =
0.4 ×8 =	67 ×0.3 =	0.08 ×12.5 =
0.125 ×8 =	3.1 ×0.3 =	0.4 ×2.5 =
1.51 +6.7 =	0.13 ×4 =	16.9 −5.3 =
2.5 ×0.4 =	2.78 +1.7 =	0.61 ×0.5 =
0.05 ×5 =	2 ×0.34 =	25.1 +4.9 =
1.28 ×0.1 =	1.2 ×3 =	0.36 ×0.2 =
1.38 +2.74 =	100 ×0.01 =	3.16 −2.08 =
0.05 ×60 =	0.25 ×8 =	1.25 ×4 =
3.72 −2.49 =	23 ×0.01 =	3.72 +0.28 =
1.3 ×20 =	6.6 +1.7 =	1.4 ×0.3 =
2.5 ×3 =	0.5 ×8.4 =	3.6 ×0.5 =

B组 变式口算题

1. 一辆汽车每小时行 x 千米，15 小时行了(　　)千米。

2. 300 辆自行车的总价是 y 元，每辆自行车的价格是(　　)元。

3. 修路队修一条长 a 米的公路，已经修好了 200 米，还剩(　　)米没有修。

4. 公共汽车上原来有乘客 a 人，到了新华站后上车 4 人，现在车上有(　　)人。

5. 写出下面各式省略乘号后的结果。

$5 \times b =$　　$c \times a =$　　$1 \times a =$　　$x \times x =$

荣德基星级口算天天练

关注微信公众号“教辅资料站”获取更多学习资料

练习3 习题课

用时：___分___秒 错误：　个

A组 常规口算题

2.5 × 3 =	0.13 × 9 =	0.36 × 2 =
0.7 × 5 =	1.2 × 80 =	4 × 0.9 =
1.6 × 5 =	3.5 × 4 =	0.74 × 2 =
1.1 × 8 =	18 × 0.5 =	2.4 × 4 =
3.3 × 5 =	0.13 × 4 =	18 × 0.3 =
4 × 2.8 =	3.7 × 3 =	0.88 × 2 =
0.18 × 3 =	2.1 × 9 =	2 × 14.2 =
6.1 × 2 =	2 × 0.34 =	1.87 × 2 =
1.2 × 30 =	2 × 24.4 =	0.15 × 40 =
4.1 × 9 =	2.04 × 6 =	1.02 × 6 =
0.14 × 3 =	0.25 × 8 =	0.65 × 4 =
7 × 1.5 =	0.37 × 2 =	51 × 0.6 =
9 × 1.05 =	12.5 × 8 =	1.06 × 5 =
7.1 × 8 =	1.62 × 2 =	1.4 × 0.3 =
1.6 × 4 =	1.3 × 9 =	3.1 × 3 =
6.1 × 5 =	7.5 × 8 =	1.9 × 20 =

B组 变式口算题

1. 把结果相等的式子连起来。

$x+x$	$y \cdot y$	7.5^2	$9 \times m$
y^2	7.5×7.5	$9m$	$2x$

2. 在◯中填上合适的数或字母。

◯ + 15 = ◯ + a　　4.5 × y = ◯ × ◯

6.2 + b + ◯ = ◯ + (◯ + 5.5)　　2.7 × m + n × ◯ = (◯ + ◯) × ◯

3.6 × (◯ + ◯) = ◯ × a + ◯ × b

荣德基星级口算天天练
微信公众号 教辅资料站

关注微信公众号“教辅资料站”获取更多学习资料

练习4 等量关系

用时：___分___秒 错误：　个

A组 常规口算题

2.3 ×6 =	1.03 ×5 =	5 ×7.2 =
5 ×0.15 =	0.31 ×4 =	1.7 ×3 =
0.06 ×7 =	2.52 ×2 =	45 ×0.3 =
0.23 ×60 =	0.26 ×3 =	81 ×0.2 =
0.13 ×5 =	0.19 ×30 =	16.4 ×0.2 =
2.06 ×3 =	4.5 ×4 =	7.6 ×0.05 =
8 ×0.65 =	11 ×0.8 =	0.52 ×20 =
8 ×0.02 =	2.06 ×30 =	1.32 ×5 =
1.8 ×3 =	25 ×0.03 =	175 ×0.02 =
5.2 ×20 =	0.71 ×20 =	2.4 ×4 =
1.1 ×11 =	20 ×0.7 =	35 ×0.06 =
20 ×0.05 =	24 ×0.5 =	24 ×0.3 =
30 ×0.4 =	0.8 ×21 =	0.5 ×19 =
4 ×0.16 =	13 ×0.9 =	1.5 ×30 =
15.6 ×10 =	1.08 ×5 =	20 ×7.3 =
0.61 ×8 =	7.28 ×2 =	82 ×0.02 =

B组 变式口算题

◆ 请你表示下列数量间的等量关系。

1. 汽车以每小时 x 千米的速度行驶，8 小时共行驶了 720 千米。_____

2. 有一块黑板的面积是 1.8 平方米，它的长是 x 米，宽是 0.9 米。_____

3. 丁丁买了 8 张光盘，冬冬买了 10 张光盘，两人一共付了 144 元。每张光盘 x 元。

_____

4. 妈妈今年的年龄是小巧的 3 倍，小巧比妈妈小 24 岁，小巧今年 x 岁。

_____

荣德基星级口算天天练

关注微信公众号“教辅资料站”获取更多学习资料

练习5 方程

用时：___分___秒 错误：　个

A组 常规口算题

60 × 0.09 =	4 × 0.25 =	8 × 1.2 =
12.4 × 5 =	0.07 × 5 =	1.05 × 6 =
7 × 1.3 =	18 × 0.4 =	100 × 0.0023 =
20 × 1.05 =	80 × 0.09 =	0.315 × 2 =
30 × 1.6 =	1.02 × 70 =	9.2 × 5 =
3.8 × 50 =	40 × 1.25 =	3.8 × 20 =
1.25 × 8 =	9 × 1.5 =	4 × 2.05 =
6 × 8.03 =	3.15 × 20 =	0.15 × 8 =
1.03 × 20 =	4.2 × 5 =	1.4 × 50 =
0.75 × 2 =	30 × 0.04 =	30 × 2.5 =
1.2 × 5 =	50 × 0.13 =	7.02 × 5 =
10 × 1.507 =	15 × 0.06 =	400 × 0.6 =
90 × 0.08 =	25.2 × 2 =	0.33 × 7 =
2.6 × 50 =	3.24 × 30 =	6.3 × 30 =

B组 变式口算题

1. 下面哪些是方程，是方程的在（　　）里面画“√”。

$4.3 + 2x = 10.3$ （　　）

$7.9 + x < 12.6$ （　　）

$8.9 + 6x$ （　　）

$8x = 0.5$ （　　）

$19 \times 2x$ （　　）

$9.6 + 2.5x = 17.15$ （　　）

2. 用方程表示下面的数量关系。

（1）

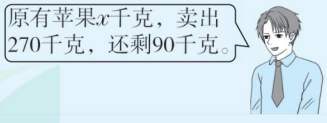

（2）

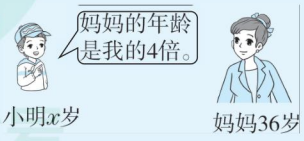

荣德基星级口算天天练
微信公众号 教辅资料站

关注微信公众号“教辅资料站”获取更多学习资料

练习6 解方程（一）

用时：___分___秒 错误：　个

A组 常规口算题

0.24 ×0.05 =	0.04 ×1.2 =	8 ×4.3 =
9.5 ×4 =	10.3 ×0.2 =	1.5 ×0.03 =
7 ×0.12 =	1.5 ×0.07 =	10.7 ×3 =
7.5 ×0.4 =	3.17 ×0.3 =	1.8 ×3 =
2.17 ×0.3 =	21.8 ×0.2 =	1.07 ×0.02 =
2.5 ×0.7 =	1.7 ×0.05 =	5.82 ×0.2 =
3.19 ×0.02 =	0.16 ×0.3 =	0.17 ×0.3 =
0.39 ×0.3 =	1.8 ×0.03 =	3.7 ×0.02 =
15.7 ×0.2 =	1.5 ×0.4 =	3.1 ×0.7 =
0.2 ×0.05 =	39 ×0.02 =	4.5 ×0.3 =
5.8 ×0.02 =	0.31 ×300 =	7.6 ×20 =
0.3 ×0.35 =	3.5 ×0.2 =	0.28 ×0.2 =
2.1 ×0.03 =	1.8 ×0.4 =	9.8 ×2 =
1.7 ×0.3 =	6.6 ×0.2 =	7.1 ×9 =
0.6 ×0.13 =	4.3 ×3 =	99.8 ×10 =
2.4 ×0.5 =	0.12 ×5 =	0.5 ×0.9 =

B组 变式口算题

1. 后面(　　)中哪个 x 的值是方程的解？在正确答案后面的□里画“√”。

(1) $x-32=48$　($x=16$ □　$x=80$ □)

(2) $26+x=54$　($x=28$ □　$x=80$ □)

(3) $x+4=7.2$　($x=11.2$ □　$x=3.2$ □)

2. 想一想，填一填。

$7+x=8.4$

解：$7+x-(\quad)=8.4-(\quad)$

$x=(\quad)$

$x-3=8.7$

解：$x-3+(\quad)=8.7+(\quad)$

$x=(\quad)$

荣德基星级口算天天练
微信公众号 教辅资料站

关注微信公众号“教辅资料站”获取更多学习资料

练习7 解方程（二）

用时：___分___秒　错误：　个

A组 常规口算题

$7.4\times0.01=$	$3.7\times0.2=$	◆ 解方程。
$7.1\times0.4=$	$9.1\times0.6=$	$3.6+x=48$
$8\times0.05=$	$1.56\times0.2=$	$x=$
$0.125\times8=$	$7.2\times0.3=$	$x+3=30$
$3.3\times0.5=$	$3.75\times20=$	$x=$
$3.2\times8=$	$7.5\times0.4=$	$5+x=15$
$4\times5.2=$	$3.2\times0.7=$	$x=$
$4\times1.8=$	$4.4\times3=$	$78-x=28$
$13\times0.7=$	$1.2\times0.7=$	$x=$
$2.5\times30=$	$0.97\times2=$	$x-29=6.6$
$1.4\times0.02=$	$3.15\times2=$	$x=$
$2.5\times0.4=$	$0.32\times0.4=$	$20-x=15$
$6.1\times0.9=$	$11.7\times0.2=$	$x=$
$1.25\times4=$	$0.72\times5=$	$x-9=8.1$
$180\times0.05=$	$4.225\times100=$	$x=$
$1.7\times0.6=$	$4.2\times0.5=$	

B组 变式口算题

1. 想一想，填一填。

$9x=7.2$

$9x\div(\quad)=7.2\div(\quad)$

$x=(\quad)$

$x\div8=3.4$

$x\div8\times(\quad)=3.4\times(\quad)$

$x=(\quad)$

2. 把方程和方程的解连起来。

$3x=72$	$x\div7=3$	$x+8=15$	$x\div9=2.5$
$x=22.5$	$x=7$	$x=21$	$x=24$

荣德基星级口算天天练
微信公众号 教辅资料站

关注微信公众号“教辅资料站”获取更多学习资料

练习8 猜数游戏（一）

用时：___分___秒 错误：　个

A组 常规口算题

$0.8\times15=$	◆ 解方程。	$3.2+x=8$
$7.8\times5=$	$7x=6.37$	$x=$
$1.88\times2=$	$x=$	$4.4-x=1.5$
$0.46\times0.2=$	$x\div0.5=40$	$x=$
$0.55\times4=$	$x=$	$x-13.4=6.6$
$8.9\times0.3=$	$16+x=18.2$	$x=$
$1.7\times0.5=$	$x=$	$3.2x=16$
$5.1\times0.6=$	$9.5-x=6.8$	$x=$
$1.35\times0.4=$	$x=$	$9x=8.1$
$7.7\times0.2=$	$x-4.4=5.6$	$x=$
$0.07\times100=$	$x=$	$16\div x=0.5$
$1.71\times0.2=$	$18\div x=0.3$	$x=$
$0.22\times4=$	$x=$	$x-7.3=7.7$
$40\times0.7=$	$x-7.6=8.3$	$x=$
$0.125\times8=$	$x=$	$24\div x=0.8$
$2.7\times0.5=$	$2.4x=48$	$x=$
$0.06\times0.9=$	$x=$	$x-4.4=6.8$
$4.1\times0.5=$		$x=$

B组 变式口算题

◆ 想一想，填一填。

$6x-3=21$

$6x-3+(\quad)=21+(\quad)$

$(\quad)=(\quad)$

$(\quad)\div(\quad)=(\quad)\div(\quad)$

$x=(\quad)$

$3x+8=41.6$

$3x+8-(\quad)=41.6-(\quad)$

$(\quad)=(\quad)$

$(\quad)\div(\quad)=(\quad)\div(\quad)$

$x=(\quad)$

荣德基星级口算天天练
微信公众号 教辅资料站

关注微信公众号“教辅资料站”获取更多学习资料

练习9 猜数游戏（二）

用时：___分___秒　错误：　个

A组 常规口算题

◆ 解方程。

$0.5x=6.6$	$36x=7.2$	$x-18.5=8.5$
$x=$	$x=$	$x=$
$x\div0.7=22$	$x\div2.3=4$	$24\div x=60$
$x=$	$x=$	$x=$
$4.2+x=8.1$	$7.4+x=9.2$	$x-4.4=5.4$
$x=$	$x=$	$x=$
$5.8-x=1.9$	$19-x=3.5$	$x\div0.7=40$
$x=$	$x=$	$x=$
$x-6.4=6.8$	$x-9.4=9.6$	$13.2+x=19.2$
$x=$	$x=$	$x=$
$3.6\div x=0.2$	$0.2x=80$	$13.5-x=6.5$
$x=$	$x=$	$x=$
$x-5.6=15.6$	$x\div3=6.6$	$x-4.8=14.8$
$x=$	$x=$	$x=$
	$75\div x=2.5$	$1.88\div x=0.2$
	$x=$	$x=$

B组 变式口算题

1. 在◯里填上“>”“<”或“=”。

（1）当$x=32$时，$5x-38$◯120。

（2）当$x=8$时，$9x+7x$◯128。

（3）当$x=1.5$时，$8x-5x$◯4.5，$4x+5x$◯20。

2. 把下面每个方程和它的解连起来。

$x-25=32$	$5x+4=19$	$3.2x=96$	$9x+45=81$	$12x+0.1=12.1$

$x=4$	$x=30$	$x=1$	$x=57$	$x=3$

荣德基星级口算天天练

关注微信公众号“教辅资料站”获取更多学习资料

练习10 习题课

用时：___分___秒 错误：　个

A组 常规口算题

◆ 解方程。

$45-3x=15$	$x+5.8=6.2$	$5x-2.5x=10$
$x=$	$x=$	$x=$
$2+4x=10$	$4x+9=35$	$6x-3.2x=56$
$x=$	$x=$	$x=$
$7x=14.7$	$18x=3.6$	$6x+8=32$
$x=$	$x=$	$x=$
$9x+1=64$	$2x-6.6=4.4$	$2x-8=32$
$x=$	$x=$	$x=$
$x+6.5=12$	$9x=63$	$32-7x=4$
$x=$	$x=$	$x=$
$x-9.2=13.2$	$7.2x=14.4$	$5x=18$
$x=$	$x=$	$x=$
$21-7x=10.5$	$3x=4.5$	$25-x=15$
$x=$	$x=$	$x=$
$2.5x+8=28$	$14.5x=29$	$3.2x-9.6=16$
$x=$	$x=$	$x=$

B组 变式口算题

◆ 看图列方程。

1. 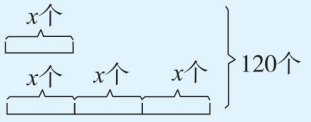

2. 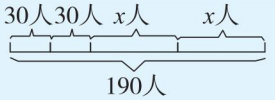

3. 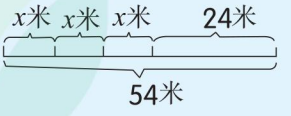

4. 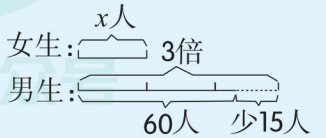

荣德基星级口算天天练
微信公众号 教辅资料站

关注微信公众号“教辅资料站”获取更多学习资料

第五单元口算能力测试

用时：___分___秒　错误：　个

A组 常规口算题

◆ 解方程。

$32-22x=10$	$x+32=76$	$1.6x=32$
$x=$	$x=$	$x=$
$24-3x=3$	$3x+6=18$	$5.6x-5x=30$
$x=$	$x=$	$x=$
$10x+1=61$	$2x-8=8$	$0.3x=15$
$x=$	$x=$	$x=$
$99x+1=100$	$4x-3=29$	$32-5x=28$
$x=$	$x=$	$x=$
$x+3=18$	$5x=105$	$16x=3.2$
$x=$	$x=$	$x=$
$x-6=12$	$x-6\times5=42$	$5+x=15$
$x=$	$x=$	$x=$
$30-5x=20$	$13.5-x=7$	$4.9x=49$
$x=$	$x=$	$x=$
	$9.5+x=17$	$7.8x=15.6$
	$x=$	$x=$

B组 变式口算题

1. 妈妈花140元为明明买了一件上衣和一条裤子，其中上衣82元，裤子多少元？

解：设裤子x元。列方程：(　　)　解得$x=$(　　)

2. 学校食堂运来10吨煤，用了一季度后，还剩2.5吨，平均每月烧多少吨煤？

解：设(　　)列方程：(　　)　解得$x=$(　　)

3. 水果店运来18筐梨和15筐苹果，一共重735千克，每筐梨重20千克，每筐苹果重多少千克？

解：设(　　)列方程：(　　)　解得$x=$(　　)

荣德基星级口算天天练

关注微信公众号“教辅资料站”获取更多学习资料

难易等级：★★

练习1　密铺

用时：___分___秒　错误：　个

A组　常规口算题

8.1 × 0.6 =
5.83 × 20 =
3.3 × 4 =
1.72 × 0.5 =
5.8 × 0.4 =
0.05 × 0.8 =
14 × 0.3 =
1.74 × 0.3 =
4.4 × 0.5 =
4.9 × 0.2 =
0.51 × 0.5 =
3.6 × 2 =
12.5 × 0.8 =
0.04 × 0.75 =
2.05 × 4 =
4 × 4.5 =

1.01 × 8 =
1.61 × 4 =
3.3 × 0.2 =
0.52 × 4 =
1.26 × 0.3 =
10.3 × 0.7 =
5.4 × 0.3 =
7.43 × 20 =
2.1 × 4 =
6.2 × 0.3 =
4 × 9.06 =
7.7 × 0.02 =
160 × 0.05 =
20.4 × 0.3 =
0.71 × 2 =
0.27 × 3 =

◆ 解方程。

$x + 18 = 50$

$x =$

$7x = 4.2$

$x =$

$x - 7.5 = 18$

$x =$

$75 - 5x = 57$

$x =$

$x \div 4 = 4.8$

$x =$

$6 + 5x = 96$

$x =$

$13x = 260$

$x =$

B组　变式口算题

◆ 在可以密铺的图形下面的(　　)里画“√”。

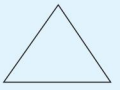
(　　)


(　　)

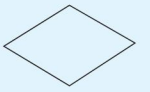
(　　)

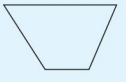
(　　)

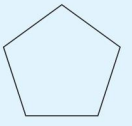
(　　)

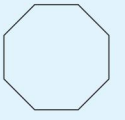
(　　)

荣德基星级口算天天练

关注微信公众号“教辅资料站”获取更多学习资料

练习2　奥运中的数学

用时：___分___秒　错误：　个

A组　常规口算题

0.33 × 2 =
0.7 × 0.4 =
0.6 × 0.12 =
0.71 × 4 =
0.8 × 1.5 =
4.9 × 0.2 =
3 × 0.54 =
1.5 × 0.6 =
1.42 × 0.4 =
1.5 × 3 =
1.3 × 0.3 =
5.6 × 0.4 =
3 × 1.7 =
2.5 × 0.3 =
0.81 × 9 =
3.3 × 6 =

2.7 × 0.4 =
1.6 × 0.2 =
7.4 × 3 =
0.33 × 0.3 =
2.21 × 40 =
1.9 × 0.5 =
9.2 × 0.3 =
2.5 × 4 =
1.5 × 0.7 =
5.6 × 2 =
0.08 × 9 =
2.25 × 0.2 =
3 × 2.41 =
1.6 × 0.4 =
0.81 × 2 =
2.3 × 0.3 =

◆ 解方程。

$5x + 15 = 65$
$x =$
$1.2x = 48$
$x =$
$0.5x - 4 = 22$
$x =$
$x \div 0.7 = 1.2$
$x =$
$8x = 48$
$x =$
$6x = 12$
$x =$
$20x - 100 = 40$
$x =$
$28 + 6x = 88$
$x =$

B组　变式口算题

◆ 下面是程章同学从左到右沿着小河游览的风景图，在船上他连续拍摄了 4 张照片，请你用①②③④标出拍摄的先后顺序。



（　　）（　　）（　　）（　　）

荣德基星级口算天天练

关注微信公众号“教辅资料站”获取更多学习资料

练习3 优化

用时：___分___秒 错误：　个

A组 常规口算题

3.2 × 0.4 =
0.7 × 4 =
9.9 × 0.2 =
1.34 × 2 =
13 × 0.3 =
1.21 × 0.4 =
1.12 × 3 =
0.02 × 0.15 =
7 × 1.04 =
0.76 × 2 =
1.9 × 0.02 =
3.27 × 0.2 =
1.2 × 50 =
2.5 × 0.7 =
2.8 × 3 =
3.12 × 0.3 =

4.2 × 0.3 =
1.3 × 0.5 =
6.07 × 9 =
5.7 × 0.2 =
0.51 × 0.2 =
5.2 × 8 =
1.4 × 0.5 =
1.08 × 6 =
0.3 × 0.16 =
1.27 × 20 =
0.16 × 5 =
1.8 × 0.4 =
2.4 × 0.5 =
3.9 × 2 =
2.6 × 0.5 =
6.1 × 6 =

◆ 解方程。

$3x + 6 = 15$

$x =$

$2.1x - 2.1 = 4.2$

$x =$

$1.5x = 10.5$

$x =$

$5x + 35 = 50$

$x =$

$1.5x - 9 = 21$

$x =$

$x \div 7 = 3.1$

$x =$

$4x - 5.4 = 2.6$

$x =$

B组 变式口算题

1. 早晨起床后小欣要花时间完成以下事情：3 分钟叠被，8 分钟洗脸刷牙，30 分钟读外语，10 分钟吃早餐，5 分钟收拾餐桌，30 分钟收听广播。完成这些事情他最少需要（　　）分钟。

2. 烤面包时，第一面需要烤 2 分钟，第二面只要烤 1 分钟，即烤一片面包需要 3 分钟。小丽用的烤面包的架子，一次只能放两片面包。她每天早上吃 3 片面包，至少要烤（　　）分钟。

荣德基星级口算天天练

关注微信公众号“教辅资料站”获取更多学习资料

第六单元 数据的表示和分析

练习1 生日

用时：___分___秒　错误：　个

A组 常规口算题

0.2 ×40 =	1.1 ×0.3 =	32 ×0.5 =
0.8 ×0.5 =	13 ×0.6 =	8.6 ×0.2 =
1.2 ×0.4 =	0.6 ×1.5 =	17 ×0.6 =
0.25 ×0.6 =	12.5 ×6 =	0.54 ×30 =
1.5 ×0.8 =	50 ×0.08 =	1.1 ×9 =
8 ×1.25 =	5.7 ×0.2 =	2.05 ×0.6 =
20 ×3.6 =	1.5 ×0.4 =	0.014 ×100 =
6 ×1.2 =	8.8 ×0.5 =	0.09 ×90 =
1.07 ×5 =	3.07 ×7 =	1.3 ×0.4 =
16 ×0.5 =	24 ×0.5 =	7.2 ×0.3 =
7 ×1.2 =	1.3 ×6 =	3.5 ×0.6 =
0.14 ×0.5 =	3.6 ×0.5 =	0.14 ×4 =
1.3 ×9 =	0.4 ×3.05 =	1.5 ×10 =
0.4 ×3.5 =	65 ×0.04 =	29 ×0.2 =
0.68 ×20 =	1.078 ×0.1 =	0.42 ×0.4 =

B组 变式口算题

◆ 下图是三味书屋一周内几种图书的销售情况，根据统计图完成统计表。

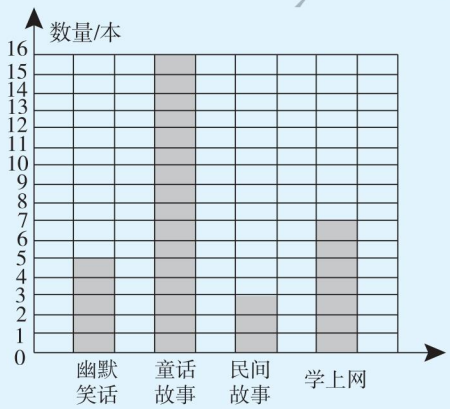

类别	幽默笑话	童话故事	民间故事	学上网
数量/本				

1.（　　）销量最多，（　　）最少。

2. 你认为老板进货时应多进（　　）。

荣德基星级口算天天练

关注微信公众号“教辅资料站”获取更多学习资料

练习2 栽蒜苗（一）

用时：___分___秒 错误：　个

A组 常规口算题

1.14 ×5 =	2.9 ×0.3 =	24 ×0.3 =
0.4 ×0.04 =	0.8 ×12 =	0.21 ×8 =
22 ×0.5 =	4 ×0.125 =	0.08 ×80 =
3.9 ×2 =	3.4 ×0.5 =	46 ×0.5 =
0.8 ×0.25 =	182 ×0.5 =	1.09 ×9 =
2.1 ×0.4 =	0.18 ×5 =	4.25 ×4 =
1.3 ×0.5 =	29.8 ×0.2 =	7.3 ×0.3 =
0.05 ×12 =	12.5 ×0.4 =	9.9 ×10 =
1.2 ×6 =	2.2 ×0.2 =	3.25 ×2 =
0.14 ×5 =	7 ×1.01 =	0.7 ×4 =
5.2 ×6 =	0.08 ×5 =	100 ×3.2 =
1.9 ×0.5 =	2.4 ×0.5 =	0.2 ×5 =
4.2 ×0.4 =	4.5 ×0.4 =	0.37 ×2 =
0.13 ×7 =	3.8 ×0.5 =	4.7 ×5 =
0.8 ×2.5 =	5.7 ×0.01 =	0.4 ×0.8 =
2.3 ×3 =	0.16 ×0.5 =	5.1 ×2 =

B组 变式口算题

◆ 下面是四年级同学喜欢吃的水果情况统计表。请根据统计表，绘制右面的统计图。

水果	苹果	西瓜	葡萄	橘子
人数/人	9	89	90	24

四年级同学喜欢吃的水果情况统计图

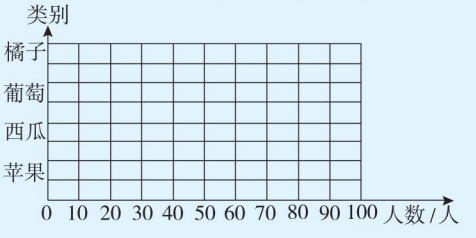

荣德基星级口算天天练

关注微信公众号“教辅资料站”获取更多学习资料

练习3 栽蒜苗（二）

用时：___分___秒　错误：　个

A组 常规口算题

1.9 ×0.6 =	0.06 ×0.7 =	3.2 ×0.2 =
0.45 ×0.4 =	16 ×0.06 =	7.05 ×100 =
8.1 ×8 =	1.4 ×0.7 =	3.7 ×9 =
0.07 ×80 =	4.5 ×2 =	0.5 ×11 =
6.1 ×0.3 =	3.4 ×0.02 =	0.4 ×5 =
240 ×0.03 =	0.4 ×5.2 =	3.6 ×2 =
7.8 ×2 =	10.8 ×0.3 =	8 ×0.9 =
3.5 ×0.4 =	65 ×0.3 =	0.82 ×2 =
8 ×2.5 =	30.5 ×4 =	7.2 ×9 =
0.4 ×0.75 =	5.8 ×0.5 =	9.1 ×0.2 =
0.22 ×5 =	2.1 ×0.7 =	2.3 ×10 =
0.5 ×0.42 =	24 ×0.6 =	0.68 ×2 =
0.72 ×2 =	3.1 ×0.05 =	7.9 ×100 =
4.3 ×3 =	2.6 ×4 =	4.3 ×0.2 =
6.5 ×5 =	0.72 ×0.4 =	2.7 ×5 =
3.72 ×3 =	2.7 ×3 =	3.26 ×0.1 =

B组 变式口算题

◆ 读下面的统计图，完成后面的练习。

某地区2019年每月降水量统计图

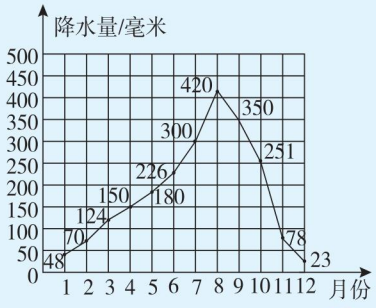

1. 这个统计图的横轴表示(　　)，纵轴表示(　　)，纵轴每一格表示(　　)毫米。
2. (　　)月到(　　)月两月之间降水量上升最快。
3. (　　)月到(　　)月两月之间降水量下降最快。

荣德基星级口算天天练

关注微信公众号“教辅资料站”获取更多学习资料

练习4 平均数

用时：___分___秒 错误：　个

A组 常规口算题

50 ×2.5 =	2.6 ×0.4 =	6 ×1.2 =
1.3 ×0.6 =	0.24 ×4 =	0.04 ×0.6 =
2.5 ×0.02 =	0.9 ×0.08 =	0.3 ×1.6 =
3.8 ×0.5 =	0.5 ×0.32 =	4 ×2.4 =
7 ×0.09 =	0.25 ×6 =	3.5 ×4 =
0.4 ×1.6 =	0.8 ×50 =	3.2 ×3 =
2.1 ×5 =	1.4 ×7 =	1.08 ×4 =
3.5 ×2 =	5 ×1.2 =	4.2 ×5 =
1.25 ×0.4 =	1.17 ×2 =	0.6 ×0.45 =
1.2 ×0.8 =	4 ×3.1 =	0.82 ×0.3 =
2.8 ×4 =	2.01 ×200 =	9.4 ×2 =
40 ×0.06 =	0.9 ×400 =	1.3 ×7 =
1.85 ×0.02 =	5.4 ×0.2 =	0.76 ×0.5 =
600 ×0.06 =	3.8 ×0.2 =	0.5 ×2.4 =
1.01 ×9 =	13 ×0.5 =	7.2 ×6 =
0.6 ×1.1 =	1.7 ×3 =	2.5 ×40 =

B组 变式口算题

1. 求出表内每一行数据的平均数。

100	140	190	110	120	180	
22	36	54	84	60	140	
39	37	31	28	22	23	

2. 五(1)班进行1分钟跳绳比赛，其中6名同学的跳绳下数如下：152，136，140，150，136，126，这组数据的平均数是(　　)。

3. 有6个数，从小到大排列为：23、25、26、30、32、32。这组数据的平均数是(　　)。

荣德基星级口算天天练

关注微信公众号“教辅资料站”获取更多学习资料

练习5　习题课

用时：___分___秒　错误：　个

A组　常规口算题

◆ 解方程。

$2x-13.8=0.2$

$x=$

$0.8x=9.6$

$x=$

$9x+0.3=27.3$

$x=$

$7x+9=58$

$x=$

$0.6x=18.6$

$x=$

$1.2x-2.4=2.4$

$x=$

$14.2+x=29$

$x=$

$0.125x=1$

$x=$

$x\div3.1=5$

$x=$

$13x-5=8$

$x=$

$22-x=18.4$

$x=$

$5x-5=20$

$x=$

$1.4+x=2.5$

$x=$

$x-6.98=3.02$

$x=$

$2x-18=22$

$x=$

$10+x=11.5$

$x=$

$2.5+2x=3.7$

$x=$

$0.8+5x=20.8$

$x=$

$6x-4.6=1.4$

$x=$

$9.4+x=10$

$x=$

$0.7x+4.2=11.2$

$x=$

$x\div1.5=0.7$

$x=$

$4.4x=22$

$x=$

$7.8+0.2x=9.6$

$x=$

B组　变式口算题

◆ 下面是四(1)班9～12月回收废纸统计表。根据统计表中的数据完成右边的统计图和下面的练习。

月份	9月	10月	11月	12月
废纸/千克	40	35	55	30

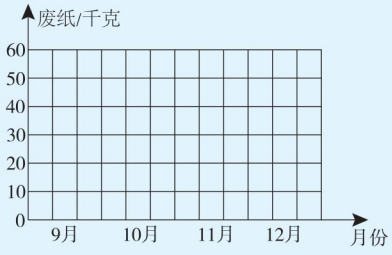

1.(　　)月回收的废纸最多，(　　)月回收的最少。

2.平均每月回收(　　)千克的废纸。

荣德基星级口算天天练

关注微信公众号“教辅资料站”获取更多学习资料

第六单元口算能力测试

用时：___分___秒　错误：　个

A组 常规口算题

◆ 解方程。

$2.5x=0.6$　　$7x=9.1$　　$5.2\div4+x=4$

$x=$　　$x=$　　$x=$

$14.3+x=20$　　$32+4x=36.4$　　$62.5+x=89$

$x=$　　$x=$　　$x=$

$x-6.2=3.8$　　$3x+5=26$　　$x-1.95=3.2$

$x=$　　$x=$　　$x=$

$5x=35.05$　　$x\div1.7=0.3$　　$6x+0.51=0.81$

$x=$　　$x=$　　$x=$

$x\div9=1.8$　　$x-3.4=5.7$　　$4x+0.8=9.2$

$x=$　　$x=$　　$x=$

$5+3x=53$　　$x\div0.3=3.1$　　$1.5-2x=0.5$

$x=$　　$x=$　　$x=$

$0.75x=1.5$　　$2x+1.4=2.8$　　$7.2+3x=9$

$x=$　　$x=$　　$x=$

$x-0.43=1.57$　　$2.5x-0.5=0.25$　　$2x+4.8=5.6$

$x=$　　$x=$　　$x=$

B组 变式口算题

◆ 下面是某火车站2019年春运期间客流量情况统计表。根据表中的数据，完成右边的统计图。

日期	客流量/万人
1月25日	2.8
1月26日	3.2
1月27日	4.5
1月28日	6.7
1月29日	10.9

某火车站2019年春运期间客流量统计图



1.（　　）日客流量最少，（　　）日最多。

2. 1月25日～1月29日该火车站平均每日客流量为（　　）万人。

荣德基 星级口算天天练

关注微信公众号“教辅资料站”获取更多学习资料

难易等级：

练习1　小数的意义和加减法

用时：___分___秒　错误：　个

A组　常规口算题

18.8 −12 =	50 +0.5 =	25 −7.1 −7.9 =
14.56 +2.41 =	8.69 −4.32 =	0.71 +0.8 +0.29 +0.2 =
64.33 −33 =	7.21 +6.2 =	10.2 +0.8 +0.2 =
16.7 +0.33 =	14 −8.8 =	41.1 −22.44 −5.56 =
0.87 −0.14 =	19.35 +2.5 =	6.78 +8.12 +0.22 =
7 +0.71 =	5.6 −1.29 =	6.38 −3.24 +1.57 =
12.9 −1.49 =	40.66 +6.55 =	10 −3.07 −0.93 =
0.39 +0.67 =	53.1 −28.4 =	4.26 +2.9 +8.1 =
13 −0.13 =	90.8 +9.8 =	5.5 −3.2 +7.3 =
6.01 −0.61 =	48.4 −38.9 =	39 −16.81 −3.19 =
31.8 +44 =	76.6 +6 =	55 +14.7 +31.3 =
100.99 −90.9 =	50 −12.75 =	16.7 +8.07 +5.3 =
12.4 +22 =	40 +32.1 =	23.7 +1.2 +8.8 =
31.8 −21.3 =	23.5 −3.1 =	23 −12.3 −7.7 =
12.34 +13.21 =	30 +23.6 =	12.67 +23 +7.33 =

B组　变式口算题

1. 找规律，填一填。

(1)5.48　5.88　6.28　_____　7.08

(2)11.479　11.474　11.469　_____　_____

(3)0.38　1.88　3.38　4.88　_____　_____

(4)6.846　6.826　6.806　_____　_____

2. 在□里填上合适的数。

7.5 +6.6 +□ =27.5　　9.98 −□ −3.3 =5.7

□ +7.7 +3.3 =17.85　　14.87 −5.6 −□ =6.4

荣德基星级口算天天练

关注微信公众号“教辅资料站”获取更多学习资料

练习2 认识三角形和四边形

用时：___分___秒 错误：　个

A组 常规口算题

4.6 +0.4 =
8.64 −0.64 =
10 −0.8 =
3.5 ×20 =
2.3 ×0.3 =
4.6 +1.5 =
200 ×0.7 =
1.6 ×5 =
1.25 ×4 =
6.5 ×0.5 =
3.14 −1.3 =
0.8 +0.78 =
0.31 ×0.4 =

50 +7.93 =
0.7 +1.3 =
2.7 +1.2 =
0.5 ×0.7 =
1.7 ×0.2 =
12.5 −2.2 =
10 ×0.21 =
0.98 +1.2 =
0.42 ×0.3 =
0.375 ×8 =
3.63 +1.9 =
12.5 −3.2 =
30.5 ×0.7 =

◆ 解方程。

$x-15=40$
$x=$
$6.2+x=8.2$
$x=$
$2x=46$
$x=$
$x\div 6=12$
$x=$
$x-7=18.2$
$x=$
$x+65=100$
$x=$
$9x=63$
$x=$
$x-75=62$
$x=$

B组 变式口算题

1. 在下面的方格纸上分别画一个等腰直角三角形，平行四边形和梯形。



2. 三角形的两个内角分别是50°和80°，则它是一个(　　)三角形。（填“锐角”“直角”或“钝角”）

3. 已知一个三角形的两条边长分别是5厘米和8厘米，则它的第三条边的长度可能是(　　)厘米。（填一种情况即可）

荣德基星级口算天天练

关注微信公众号“教辅资料站”获取更多学习资料

练习3　小数乘法

用时：___分___秒　错误：　个

A组　常规口算题

16 ×0.4 =	0.14 ×0.4 =	5.1 ×11 −5.1 =
0.9 ×6 =	2.6 ×0.5 =	12.5 ×0.7 ×8 =
7 ×0.04 =	1.7 ×5 =	2.9 ×99 +2.9 =
9.2 ×3 =	7.07 ×0.2 =	3.1 ×0.1 ×0.3 =
2.3 ×40 =	0.48 ×3 =	99 ×0.12 =
0.16 ×3 =	2.9 ×0.3 =	1.8 ×0.7 ×5 =
2.53 ×2 =	0.17 ×500 =	3.2 ×6.8 +3.2 ×3.2 =
1.8 ×0.4 =	0.34 ×0.3 =	64 ×0.5 ×0.2 =
2.4 ×0.5 =	0.19 ×0.5 =	1.7 ×101 =
2.2 ×0.4 =	2.02 ×5 =	12.5 ×56 =
1.21 ×3 =	7.8 ×0.2 =	4.8 ×9.9 +5.2 ×9.9 =
0.02 ×0.5 =	3 ×21.2 =	0.25 ×2.8 =
1.4 ×5 =	0.2 ×5.8 =	2.08 ×0.1 ×2 =
0.02 ×0.7 =	0.15 ×80 =	46.7 ×99 +46.7 =
0.18 ×0.3 =	5.7 ×0.6 =	9 ×1.6 +9 ×3.4 =
1.9 ×0.4 =	48 ×0.5 =	7.87 +7.87 ×99 =

B组　变式口算题

◆ 用简便方法计算。

3.7 ×12.8 +0.37 ×872　　999.9 ×0.28 −0.6666 ×370

荣德基星级口算天天练

关注微信公众号“教辅资料站”获取更多学习资料

练习4 观察物体

用时：___分___秒 错误：　个

A组 常规口算题

0.6 +1.2 =
0.9 ×0.8 =
100 ×2.36 =
0.75 −0.25 =
6.2 ×0.3 =
0.5 ×0.2 =
16.7 +2.3 =
3.62 +1.38 =
1.2 ×0.6 =
0.1 ×5.7 =
11 −9.2 =
1 −0.22 =
6.07 +0.05 =
1.35 +2.9 =
2.01 ×0.5 =
3.1 ×7 =

10 ×2.5 =
8.2 −1.2 =
0.8 +0.18 =
10.1 +0.73 =
0.3 ×0.9 =
1.25 ×80 =
32.6 −7.9 =
1.74 −0.9 =
500 ×2.1 =
5.5 ×4 =
13 −12.1 =
4.3 +6.9 =
8.59 −0.42 =
6.42 +5.7 =
700 ×0.8 =
4.2 ×0.4 =

◆ 解方程。

$x+5=65$
$x=$
$x-2.3=4.2$
$x=$
$2x=96$
$x=$
$x\div 9=6$
$x=$
$x-6.2=12$
$x=$
$14+x=99$
$x=$
$5x=125$
$x=$
$x\div 12=9$
$x=$

B组 变式口算题

◆ 看一看，说一说。

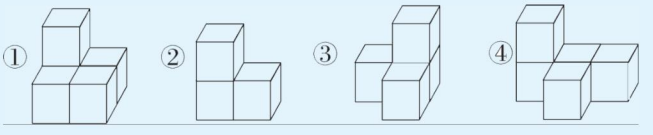

1. 从正面看到的形状是  的有(　　)；看到的形状是  的有(　　)。

2. 从左面看到的形状是  的有(　　)。

3. ④是由(　　)个小正方体搭成的。

荣德基星级口算天天练

关注微信公众号“教辅资料站”获取更多学习资料

练习5　认识方程

用时：___分___秒　错误：　个

A组　常规口算题

◆ 解方程。

$0.7x-1.4=1.4$

$x=$

$10x-5.5=14.5$

$x=$

$3x=7.2$

$x=$

$3x-6.5=2.5$

$x=$

$0.1x-0.4=0.6$

$x=$

$x-30.8=4.2$

$x=$

$0.5x+4.2=14.2$

$x=$

$1.2x=8.4$

$x=$

$4x+8=12$

$x=$

$0.6x-3=3$

$x=$

$6.6+x=20$

$x=$

$0.9x-1.6=7.4$

$x=$

$4x-0.8=4.4$

$x=$

$7.2\div x=0.8$

$x=$

$5x-40=10$

$x=$

$3x-7.5=13.5$

$x=$

$8+8x=40$

$x=$

$x\div 1.1=6$

$x=$

$0.5x+18=22$

$x=$

$x+18.4=20$

$x=$

$8-2x=5$

$x=$

$33-x=30.6$

$x=$

$0.3x+5.6=8.9$

$x=$

B组　变式口算题

1. 台湾岛的面积是3.58万平方千米，比海南岛大0.19万平方千米，海南岛的面积是(　　)万平方千米。

解：设(　　)　列方程：(　　)　解得$x=$(　　)

2. 故宫的面积是72万平方米，比天安门广场面积的2倍少16万平方米。天安门广场的面积是(　　)万平方米。

解：设(　　)　列方程：(　　)　解得$x=$(　　)

荣德基星级口算天天练

关注微信公众号“教辅资料站”获取更多学习资料

练习6 数据的表示和分析

用时：___分___秒 错误：　个

A组 常规口算题

◆ 解方程。

$x-25=30$

$x=$

$x+3.15=6.15$

$x=$

$4x=36$

$x=$

$x+12=96$

$x=$

$x\div15=3$

$x=$

$x-3.6=6.4$

$x=$

$7x=77$

$x=$

$2x=36$

$x=$

$x\div9=8$

$x=$

$2x+3=17$

$x=$

$x-16.5=3.5$

$x=$

$3x+15=30$

$x=$

$x+18=25$

$x=$

$x\div16=8$

$x=$

$8+x=16.2$

$x=$

$2.5\times8=$

$0.2+0.6=$

$3.1-2=$

$0.4\times3=$

$100\times0.02=$

$1.5+2.5=$

$4.2-1.5=$

$7.8+1.2=$

$10\times2.7=$

$2.1-0.9=$

$3.14\times0.2=$

$25.5-7.3=$

$15.6+2.4=$

$3.11\times0.3=$

$9\times3.2=$

$0.7\times0.11=$

B组 变式口算题

◆ 下面是某学校唱歌比赛成绩统计表。请你把这张成绩统计表填写完整。（评分规则：去掉一个最高分和一个最低分，其他分数的平均分就是最终得分。）

评委 / 选手	1号	2号	3号	4号	5号	6号	最终得分
1号	98	94	93	96	92	97	
2号	91	89	91	93	99	93	
3号	93	94	98	92	93	90	

荣德基星级口算天天练

关注微信公众号“教辅资料站”获取更多学习资料

口算能力期末综合测评（一）

用时：___分___秒　错误：　个

A组 常规口算题

6.7 +9.9 =	18.78 −6.54 =	56.09 −12.77 −11.23 =
40 −38.5 =	4.1 +17.71 =	0.27 +0.76 +0.73 +0.24 =
15.64 +2.9 =	7.76 −4.43 =	18.79 −(4.3 +7.79) =
8.7 −2.1 =	6.34 +10 =	55.43 −22.34 −8.66 =
5.08 +3.9 =	21.8 −13.8 =	41.9 −(23 +1.9) =
0.08 +0.8 =	52.6 +14.4 =	100 −43.78 −7.22 =
9.09 −4.04 =	8.17 +3.9 =	18.4 +7.3 +1.6 =
68.8 −54.7 =	45 +4.5 =	10.35 +10.55 +0.1 =
3.38 −1.3 =	7.8 +4 =	0.54 −0.49 +0.46 =
14 −2.2 =	52.1 +1.6 =	33.5 −(4 +3.5) =
6.9 +0.9 =	6.3 −3.3 =	7.08 +5.9 +1.92 =
41.8 −1.2 =	4.9 +6.5 =	29.58 −13.6 −11.4 =
0.73 +0.37 =	11.5 −6.1 =	18.88 −(10 +2.88) =
2.38 −1.25 =	5.75 +5 =	3.38 +2.44 +1.56 +0.62 =
8 −0.09 =	7.77 +7.1 =	90 −36.7 −23.3 =
0.66 +0.55 =	8.01 −6 =	45.3 +5.7 +4.7 =
11 −1.1 =	17.71 −4.41 =	50.79 +4.31 −5.79 =
6.16 +8.8 =	20 +0.2 =	47.4 −(3.6 +7.4) =
32.83 −31.52 =	0.65 +6.55 =	16 −0.62 −3.38 =
0.19 +19 =	30.3 −9.3 =	5.55 +7.14 +9.45 =
40.84 −10.33 =	7.87 +8.13 =	6.45 −(2.3 +2.45) =
3.4 −1.5 =	3.57 −0.99 =	3.75 −2.49 −0.75 =
4.5 +2.5 =	3.4 +1.23 =	18.47 −(12.7 +3.47) =
4 −3.6 =	100 −25.5 =	4.64 +6.46 +5.36 =

荣德基星级口算天天练

关注微信公众号“教辅资料站”获取更多学习资料

口算能力期末综合测评（二）

用时：___分___秒　错误：　个

A组 常规口算题

0 ×3.6 =	2.2 +4.2 =	3.7 −1.4 =
7.9 −2.5 =	5.4 +4.3 =	0.2 ×0.6 =
100 ×0.24 =	0.7 ×0.8 =	20 ×2.04 =
1.9 +2.5 =	15.6 −2.3 =	7.5 +12.5 =
3.6 +4.2 =	3.5 +6.2 =	17.8 −12.5 =
7.9 −3.5 =	9.8 +7.9 =	12.3 +19.1 =
40 ×3.5 =	2.11 ×400 =	0.42 ×0.3 =
7.2 ×0.3 =	5.2 ×0.9 =	30 ×9.2 =
7.8 −2.9 =	4.2 +4.8 =	24.9 −5.9 =
26.4 −2.7 =	8.5 +12.3 =	88.2 +11.2 =
45.5 −3.5 =	7.2 ×0.5 =	100 ×0.72 =
3.56 −2.2 =	18.5 ×0.2 =	4.3 ×0.4 =
42.5 −3.9 =	7.8 +2.5 =	3.2 +16.8 =
76.5 −5.6 =	0.23 ×0.9 =	3.5 ×0.8 =
2.5 ×8 =	6.4 ×0.3 =	8.6 ×30 =
7.2 ×0.4 =	3.2 ×50 =	14.2 +4.6 =
52.3 +2.4 =	9.2 +1.2 =	3.96 +1.24 =
52.2 ×0.3 =	7.24 ×0.4 =	0.72 ×0.3 =
12.6 +2.1 =	83.9 −3.9 =	0.52 ×0.6 =
7.4 ×0.3 =	15.5 ×0.2 =	96 −13.7 =
3.4 ×0.5 =	3.9 ×0.7 =	42.5 −2.9 =
7.2 ×0.8 =	14.8 −4.9 =	0.15 ×40 =
3.4 ×0.9 =	9.5 ×0.5 =	7.83 −1.9 =
700 ×5.2 =	6.2 ×0.7 =	3.8 ×0.6 =

荣德基 星级口算天天练

关注微信公众号“教辅资料站”获取更多学习资料

口算能力期末综合测评（三）

用时：___分___秒　错误：　个

A组 常规口算题

0.6 ×1.1 =	1.4 ×3 =	5.06 ×9 +5.06 =
1.7 ×0.2 =	2.3 ×5 =	12.5 ×9 ×0.8 =
2.5 ×400 =	0.125 ×8 =	0.18 ×4 ×0.25 =
4.5 ×20 =	0.76 ×0.2 =	1.7 ×23.9 +1.7 ×6.1 =
60 ×0.13 =	0.85 ×2 =	2.7 +0.8 ×5 =
10.5 ×8 =	1.2 ×5 =	0.65 ×11 −0.65 =
5.5 ×0.2 =	4.3 ×0.5 =	0.25 ×36 =
0.2 ×1.8 =	4.8 ×0.5 =	3.06 +3.06 ×99 =
1.6 ×0.5 =	0.14 ×0.4 =	0.34 ×11 =
0.24 ×5 =	0.46 ×0.5 =	4.3 ×0.3 ×0.1 =
7 ×2.1 =	0.8 ×1.5 =	1.25 ×7 ×8 =
2.15 ×8 =	1.32 ×4 =	4 ×0.3 +6.7 =
500 ×0.01 =	1.3 ×0.6 =	2.88 ×101 −2.88 =
2.5 ×6 =	2 ×1.07 =	12.9 +0.6 ×5 =
0.06 ×0.4 =	3.1 ×4 =	1.25 ×16 =
0.48 ×5 =	1.4 ×7 =	2.4 −2 ×0.6 =
2.3 ×2 =	240 ×0.3 =	18.3 +1.7 ×3 =
0.8 ×50 =	0.7 ×0.12 =	0.25 ×9 ×4 =
2.4 ×0.4 =	1.6 ×0.3 =	8.4 −0.4 ×6 =
1.05 ×3 =	2.27 ×2 =	9.1 −9.1 ×0.9 =
2.5 ×2 =	6.5 ×0.4 =	3.1 +3 ×0.5 =
2.1 ×0.6 =	2.08 ×8 =	3.6 ×2.2 −3.6 ×1.2 =
12.5 ×8 =	4.33 ×0.2 =	3.8 ×0.4 ×5 =

荣德基星级口算天天练

关注微信公众号“教辅资料站”获取更多学习资料

口算能力期末综合测评（四）

用时：___分___秒　错误：　个

A组 常规口算题

◆ 解方程。

$0.8+4x=9.2$

$x=$

$5x-0.25\times4=10$

$x=$

$7x-5=16$

$x=$

$2x+3.2=8.1$

$x=$

$x-9.5=7.6$

$x=$

$2x-0.5=0.9$

$x=$

$0.3x=3.21$

$x=$

$x-0.8x=3.6$

$x=$

$0.1x+3.8=6.2$

$x=$

$2x+5.6=14.4$

$x=$

$2x3=9.6$

$x=$

$x\div1.3=0.4$

$x=$

$7.2x-4=10.4$

$x=$

$2x-4\times14=0$

$x=$

$5x=105$

$x=$

$x\div9.2=3$

$x=$

$6.1x=5.49$

$x=$

$41x+5=13.2$

$x=$

$9.2-33x=2.6$

$x=$

$2x-16=21$

$x=$

$16x=17.6$

$x=$

$2.5x-7=10.5$

$x=$

$8x=16.8$

$x=$

$2x\div5=0.4$

$x=$

$1.8x-9=9$

$x=$

$5.6x+44=100$

$x=$

$x+25.4=38$

$x=$

$7.6x-3.2=12$

$x=$

$3x+0.9=2.1$

$x=$

$x-2.6=0.4$

$x=$

$7x\div0.2=0.7$

$x=$

$4x+8=15.2$

$x=$

$1\div x=0.25$

$x=$

$6.6x-1.82=0.16$

$x=$

$2x=9$

$x=$

$1.05x-1.1=1$

$x=$

$7x=21.7$

$x=$

$6x+0.6=7.8$

$x=$

$x+3\times0.6=7$

$x=$

荣德基 星级口算天天练

关注微信公众号“教辅资料站”获取更多学习资料

参考答案

第一单元 练习1（第1页）

A组

1.4	1.2	>
1.5	7.5	>
3.5	1.8	>
5.9	1.4	=
12.9	1.2	<
14.2	7.4	>
18.8	2.4	>
0.6	3.4	<
7.4	8.7	>
18.1	5.3	<
6.1	15.6	<
10.2	12	>
18.3	68.1	
10.8	46.8	
2.4	53.3	
15.5	54.4	

B组

1. $\frac{8}{10}$ 0.8 $\frac{6}{10}$ 0.6 2. 略

练习2（第2页）

A组

40	42	2.5
1	1.8	3.2
33.6	76	0.185
0.6	1.7	0.65
0.2	10	7 3
23.4	5.4	6.25
0.4	14.8	2 3 4
22.4	13.9	0.325
25.2	5	0.45
5	3.3	7.86
0.9	3.3	3 5 5
6.8	7.4	7.08
0.4	1.2	0.633
20.1	15.5	0.68
4.5	63.1	15 7
51.3	4.6	15.73

B组

1. 5.5 0.65

2. 0.09 0.009 0.9

$\frac{9}{10}$ $\frac{9}{100}$ $\frac{9}{1000}$

练习3（第3页）

A组

3.8	196	>
0.7	34	<
19.3	3000	>
1.2	642	<
45	7	>
0.9	420	>
2.4	168	>
0.7	196	<
18.7	1640	>
4.4	90	<
46.1	4	>
13.2	851	>
27.9	2	
68.6	1800	
11.3	272	
31	539	

B组

1. 10 2. 8 4 5
3. 十 10 个 1 十分 0.1 百分 0.01
4. 9 5. 62

练习4（第4页）

A组

10	45	<
1	460	>
40.3	299	<
6.6	1740	<
1	64	>
13.2	200	>
3.7	200	>
81.8	960	>
2.5	16	<
11.4	956	>
27.4	230	<
96	4000	>
45.4	9797	
3.6	675	
42.2	4800	
6.5	422	

B组

1. 略
2. (1)7.014 （答案不唯一）
(2)40.17 （答案不唯一）
(3)4.701 （答案不唯一）

练习5（第5页）

A组

7.2	4	700
1.3	3366	200
2.5	10	98
12.8	5	4000
2.9	360	257
38	20	4950
0.2	300	6
1.9	1530	220
1	16	570
1.9	1500	7000
2.6	5900	9898
8.3	1780	20
39.6	171	612
21.6	7	1000
25.6	3328	980
27.8	1760	4

B组

1. 2.10 13.40 56.00 7.10 8.30
2. 6.5 9.09 4 10.1 3. 略

练习6（第6页）

A组

45	18800	3
10.7	770	35
51	200	5
0.5	45	3120
27.7	3600	2400
2.3	4	90
12.8	2900	5
11.2	2079	200
75	750	260
5.4	35	143
90	6700	1236
20	820	10
3.9	355	56
63.9	50000	7700
6.6	747	255
75.6	1540	1032

B组

1. > > < < = > > > < 2. 略

练习7（第7页）

A组

33.5	18.5	4.6
34.6	22.4	14.8
25.3	33.4	29.4
6.4	90	25
26.3	1.2	14. 2
8.1	21.3	121.2
35.3	10.6	3.8
2.2	121.9	19.4
12.6	8.7	13.7
0.5	99.2	75.2
36.7	31.5	22.1
100	49.4	20.5
21.5	8.9	46.1

荣德基星级口算天天练

请沿此虚线裁剪下使用

关注微信公众号“教辅资料站”获取更多学习资料

15.6 91.2 16.2
2.5 25 43.2
17.3 1.3 5.2
1.6 15.2 10.4
59.1 4.4 53

B 组

1 6 6 9 3 6

练习 8（第 8 页）

A 组

8.3 25.6 2.1
7.9 21.9 79.1
10.1 4.3 3.1
3.4 11.7 79.7
80.7 22.4 0.5
0.1 28 189
27.8 0.2 46.2
4.5 10.2 109.3
13.7 3.6 30.8
1.6 20.2 10.6
13.9 5.5 7.5
67.2 12.9 351.9
3.3 14.9 13.7
18.2 9.6 38.4
34.6 2.5 4.4
10.2 20.2 16
10 1.8 24.3
57.4 25.4 44.2

B 组

11.2 3.4 38.2 27.4

练习 9（第 9 页）

A 组

5.9 9.7 12.3
1.4 4.1 10.8
10.8 0.98 10.5
7.3 4.5 15.9
7.8 9.9 51
4.5 0.18 44.8
28.66 9.8 1.68
7 99.79 4.4
6.9 6.6 6.55
2.44 3.1 11.87
9.9 1.33 7.1
7.22 159.8 6.24
15.38 9.16 78.4
4.8 13.6 4.14
19.95 2.25 87.3
2.2 25 33.12
11.9 34.9 37.87

B 组

0.35 14.92 18.05 59.01

练习 10（第 10 页）

A 组

10.6 6.42 24
0.7 10.12 9
10.5 10.3 52
3.8 129.9 46.2
12.9 13.13 15
9.22 10.47 32.8
36.21 56.78 13.6
4.14 9.1 21
114.7 3.89 9.03
13.2 67.96 47
130 5.19 34
40 11.9 40
27.6 6.35 20.86
5.7 15.85 38.46
56.44 4.03 7.03
14.1 20.69 6.53

B 组

17.08 17.15 17.1

练习 11（第 11 页）

A 组

4.2 1.4 24
4 1.23 41.2
5 8.7 20.3
2.8 19.7 23.56
6.7 37 21.1
4.2 23.9 76.2
11.6 6.22 10
4.36 12.43 66
0.22 64.9 33
11.45 21 32
4.23 5 28
28.2 8.58 2
13.25 17.64 14.5
0.95 4.96 1
8 1.19 2.37
22.58 4.4 67.3
5.21 6.15 33.5
6.4 14.3 20.8

B 组

1. 6.475 6.478 2. 0.9 1.1
3. 2.32 2.37 4. 8.659 8.657

第一单元口算能力测试（第 12 页）

A 组

38.2 61.2 16.4
16.8 14.3 5.7
13 10.93 2.3
7.06 8 4.87
25 54.33 7.02
1.2 69.01 1.47
22.2 97 1.2
1 40 0.45
35 2.3 5.4
12.03 1 7.1
5.2 7.01 11
1 3.77 17
12.4 4.77 30.24
11.23 25.53 60
44.2 45.24 16.1

B 组

1. 1.3 18.67 0.26 3.11 11.1
4.5

2. > < > <

第二单元 练习 1（第 13 页）

A 组

5.2 4.45 7666
19.81 1.3 6867
9.05 1.46 1700
1.39 6.49 9000
10.75 19.32 996
2.32 52.42 4437
26.01 50 3144
32.6 98.15 6576
15.4 3.25 1170
2.46 7.79 6442
43.53 7.1 5000
34.1 80 8800
12.5 21.98 3809
35.8 1.83 8556

B 组

②⑤⑦⑧⑩ ①③④⑥⑨

练习 2（第 14 页）

A 组

4.9 44.04 442
6.36 2.65 220
4.76 13.3 578
6.39 7.2 367
8.8 4.38 420
24.38 3.09 262
56.8 12 555
21.2 48.81 605
13.2 19.2 611
35 25.3 948
34.2 26.1 431
49.25 26 947
47.62 24.4 329
21.45 5.66 258

B 组

①②④⑥ ③⑦ ⑤⑧ ①④⑥⑩

练习 3（第 15 页）

A 组

2.5 2.2 295
5.35 3.67 531
11.58 8.32 826
0.12 4.67 93
50.24 3 746
24.4 4.45 633
1.46 1.2 761
3.08 21.4 642
1.7 6.08 592
0.84 0.18 401
0.08 77 375
4.09 23.31 634
27.4 9.2 810
6.31 54.4 337
72.2 6 820
17.28 60.5 881

荣德基星级口算天天练

请沿此虚线裁剪下使用

关注微信公众号“教辅资料站”获取更多学习资料

B 组

1. √ 2. √ 3. √ 4. √ 5. ×

练习 4（第 16 页）

A 组

31.9	1.21	1302
5.3	19.55	325
46	11.8	1020
45.2	87.73	20
22.5	9.1	4900
22.88	18.99	20
8.86	55.5	72270
130.1	28.2	68
35.72	2.21	7
22.26	23.49	10180
42.98	14.15	1230
13.19	10.23	71
12.2	10.23	335
41.66	7.86	8
2.65	23.01	987
24	6.35	832

B 组

58° 28° 45°

练习 5（第 17 页）

A 组

0.35	0.93	290
1	7.58	2680
4.58	6.61	460
5.03	6.67	1560
4	11.02	230
11.46	20.18	65
42.25	12.55	42140
0.3	24.5	4340
8.95	29.05	13
1.94	22.91	5200
27.03	6.89	2800
2.65	1.55	7
8.22	56.96	49
10.32	5.3	8
11.78	16.54	336

B 组

√ √ × ×

练习 6（第 18 页）

A 组

12.04	3.44	870
9.32	2.2	31
19.29	45.37	1350
3.05	3.25	9
80.8	9.7	32
0.09	2.06	35050
14.11	14.3	184
150.9	3.6	469
11.85	13.72	6000
16.29	3.65	4
5.7	26.95	9
12.6	0.51	41
9.63	3.21	72
17.14	5.96	185
1.03	10	963
12.73	34.6	90

B 组

②④⑤⑥ ③⑧ ⑥ ④

练习 7（第 19 页）

A 组

9.43	14.86	15
6.17	2.72	8.4
8.2	9.6	17.73
0.8	19.87	20.6
8.9	1.24	31.4
8.83	16.9	31.9
5.28	27.2	28.1
3.2	2.6	0.11
3.4	7.1	0.6
11.2	26.85	28.07
48.6	4.73	9.61
5.8	58.4	4.6
19.68	5.2	64.2
10.28	11.88	2.81
57.1	36.06	26.45

B 组

1. (1)√ (2)√ (3)× (4)√

2. 略（答案不唯一）

第二单元口算能力测试（第 20 页）

A 组

2.5	2.2	3
5.35	3.67	2.7
11.58	8.32	9.5
0.12	4.67	0.5
50.24	3	0.5
24.4	4.45	6.68
1.46	1.2	3.5
3.08	21.4	6.2
1.7	6.08	17.73
0.84	0.18	28.07
0.08	77	1
4.09	23.31	4.3
27.4	9.2	4.85
6.31	54.4	3.9
72.2	6	21.9
17.28	60.5	56.94

B 组

1. ②⑤ ④ ①

2. 直角

第三单元 练习 1（第 21 页）

A 组

75	405	111
0.9	1.6	3.3
6.5	180	1308
500	9.8	1.1
60	2.7	875
2.4	7.8	156
144	1100	1.2
268	3.6	9.1
2.8	651	2
625	0.6	174
3.2	735	4.8
375	2.4	1017
147	750	2.1
1.8	375	4.9
12.6	11.2	1680
1368	7.2	10.4

B 组

略

练习 2（第 22 页）

A 组

17.3	540	2.68
1.6	0.1546	9
4.8	173	0.0759
1.3	71	0.1317
15.2	6.64	346
30.6	3800	0.0546
15	0.001	832
4.4	0.04	9.6
1.8	182	0.005
8.4	8.67	9
3.7	1530	9.02
53	0.05	405
12.9	8.9	0.6
10.8	0.0452	13.4

B 组

× 100 ÷ 10 × 1000

÷ 10 × 1000 ÷ 10

÷ 100 × 1000 × 100

× 100 ÷ 1000 ÷ 10

练习 3（第 23 页）

A 组

10.2	90	0.192
10	0.71	190
1.8	2540	0.4289
3.2	0.089	255
20.2	6080	0.468
50.5	1.73	86
25.4	3090	8.198
3.8	0.505	3800
2	666	1.008
19.3	0.0806	5.06
22.4	5.4	3.78
36	0.051	794
12.3	236.5	0.15
52.1	0.0321	678
11.9	10.8	0.9003
40.1	6	0.547

B 组

1. (1)0.501 (2)6.04 (3)0.99 (4)千分之一

2. 9 90 900 9 25

练习 4（第 24 页）

A 组

0.1	12	10
0.54	852	1035
1.3	1.4	2.5
7.68	40	18.4
0.69	0	4050
8.4	2.4	45.5

荣德基 星级口算天天练

请沿此虚线裁剪下使用

关注微信公众号“教辅资料站”获取更多学习资料

0.7 5.4 33.3
0.9 735 22.8
90 6 50
3.6 51 43.2
0.6 6.4 5800
0.72 0.7 39.2
0.48 8 1.5
0.34 6.8 3.25
1.26 20 49.5
1.24 21 0.42

B 组

1.9.25 92.5 92.5 0.925 2.略

练习 5（第 25 页）

A 组

3.24 0.7 6.84
3.24 0.126 0.1
0.27 3.224 3.22
0.84 0.92 0.46
0.84 2.88 35.14
0.084 256 568
0.78 4.16 0.87
1.005 0.189 3.36
24.96 5.7 26.4
1.08 2.24 10.5
28 0.72 2.64
1.484 3.18 0.714
4.32 1.2 9.92
0.34 1.36 0.408
1.68 0.2 0.88
0.412 1.35 130

B 组

1. 三 两
2. 3.35 11.571 0.38

练习 6（第 26 页）

A 组

0.48 0.104 0.0028
0.0224 0.072 0.115
480 288 0.2184
0.00056 0.048 0.5608
9.8 8.08 0.186
0.0105 0.0018 56
1.2 0.52 0.0066
0.078 2.24 0.0175
0.028 0.132 0.0048
1.75 0.48 84
0.0448 0.12 0.0032
0.224 0.0068 0.0418
0.168 0.015 1.29
0.565 135 0.00054
0.31 138 23.2
0.726 1.7 0.00096

B 组

1. √ × × √ × √
2. 54.9 3. 16.8

练习 7（第 27 页）

A 组

0.028 0.0048 0.0092
48 0.108 15.6
8.7 288 0.672
0.0078 0.216 0.0055
101.2 7.32 6.72
3.505 9.72 2700
210 1620 1.026
9.72 162.4 1.5
0.5 2.38 0.256
1.35 0.318 840
0.288 0.19 0.168
2400 2.08 10.18
1.68 0.39 0.09
0.1006 0.945 0.0324
16.4 0.138 1.58
12.06 8.75 1.428

B 组

1. > > < = > > < < =
2. 3.21 23 32.1 2.3 321 0.23 0.321 23 3.21 2.3 32.1 0.23

练习 8（第 28 页）

A 组

0.0056 183 8.93
0.093 0.217 19
63 0.84 30.24
14400 0.072 40
0.484 7.26 7
0.085 0.72 7.6
6.15 0.81 8.5
121 16.24 17.2
1.29 0.0098 4.3
3.7 1.22 312
60.9 0.24 2860
5400 0.208 9.6
1.08 1.1 0.6
0.432 63 32
20000 1.239 0.4
1.206 0.0875 0.6

B 组

1. 2.1 × 3.27 6.73
12.3 × 4 8 0.4
10 0.2 10 124 0.2 124
2. 175 3. 460

练习 9（第 29 页）

A 组

120 0.15 0.4
0.6 740 7
40 3.5 1.2
1000 9.9 76.5
2.65 0 0.24
100 10 32
10 50 40
800 3 260
0.48 4.2 49.5
2.7 2.24 42
1 3.9 100
1.44 24.6 50.5
100 15.2 110
2 11.5 980
24 21.5 36
9.9 20 150

B 组

1. 70.72 2. 1. 125
3. ×
$5.7\times3.9-3.8$
$=22.23-3.8$
$=18.43$
×
101×0.85
$=(100+1)\times0.85$
$=100\times0.85+1\times0.85$
$=85.85$

第三单元口算能力测试（第 30 页）

A 组

2.52 1.65 1.4
2.6 48 35
1.7 0.942 3
0.198 0.136 2.3
1 10.5 0.5
6.16 10.56 2.8
0.24 0.0056 90
1.84 20.6 14
0.27 0.3 2
0.11 0.027 12
2.46 0.7 0.061
0.3 0 40
32 0.5 7
11 0.91 0.4
0 21 1.8
1 3.6 1.44

B 组

48 279 264 9.16

整理与复习（第 31 页）

A 组

19.2 17 4.6
10.2 0.035 4.3
0.8 1.32 27
1.18 26 10.8
0.68 0.138 100
1.94 1.2 9
0.117 0.081 80
0.68 0.47 42
67.2 43.2 73
38.4 0.048 700
2.58 0.72 1.03
0.8 60 0.8
2.88 0.175 0.061
0.119 1.6 0.7
4.28 10 4
0.832 39 8.4

星级口算天天练

请沿此虚线裁剪下使用

关注微信公众号“教辅资料站”获取更多学习资料

B 组

1. × 2. √ 3. × 4. √ 5. ×

第四单元 练习 1（第 32 页）

A 组

0.2	3.2	1230
180	17	3.4
1.2	0	3.3
0.23	6	70
0.93	2500	4.1
9	3.78	4.5
0.77	4.8	2970
0.23	90	8
51	1.23	0.07
0.89	0.98	0.57
0.98	50	0.75
420	6.1	3.4
10.22	4.18	5
0.85	30	0.6
920	13.8	5
10.4	0.9	8.5

B 组

略

练习 2（第 33 页）

A 组

20	0.27	20
0.39	1	0
5.6	3	9.2
0.7	0.5	23. 4
10.56	0.84	0.75
10.5	0.91	2.1
5.6	11.95	0.09
4.03	0.21	8.2
20.6	0.88	2
5.76	0.01	0.035
3.4	3.2	4.5
20.4	0.69	2.2
2.2	8	15.6
0.7	2.8	6
0.92	0.2	9
0.7	100	2.7

B 组

略

练习 3（第 34 页）

A 组

1	1.12	20.4
5.7	20	0.3
2300	305	75
5	0.4	0.9
12	20	0.065
7.4	9	3.1
1000	3	1.08
0.92	7.8	0.29
8.4	0.33	3000
25	0.082	0.72
0.6	7	1
0.23	4.8	8.3
0.52	28	9.2
10.08	0.56	5.9
0.25	6	6.3
500	15.84	5.07

B 组

1. 在第三个（　　）里画“✓”。
2. 正

练习 4（第 35 页）

A 组

105	4.8	2.17
0.54	9.1	0.93
21.2	84	0.96
0.078	0.072	10.89
20.52	0.72	3.14
355	3.57	0.582
75	12.15	4.6
1.048	162.4	1.6
8.35	0.238	1.74
0.235	4.2	2.76
0.96	0.19	9.03
1.8	208	5.15
0.0048	33	0.515
0.216	0.38	1.563
20	13.89	5.15
3.9	875	0.063

B 组

正　画图略。

第四单元口算能力测试（第 36 页）

A 组

1.88	0.088	0.91
1.58	4.15	1.96
4.05	1.35	1.48
2.7	0.072	0.012
5.85	2.82	8.1
0.114	0.096	0.1
0.98	2.34	0.8
273	0.6	0.0306
4	2.6	17
1.12	0.116	69
0.84	0.096	2.72
7.76	38.4	0.32
47	0.488	700
9	325	1.71
1.5	0.105	1.72
0.1	1.05	0.456

B 组

1. ②⑥　①④
2. ①②⑦⑧　③⑤
3. ①⑤⑦⑧　⑥

第五单元 练习 1（第 37 页）

A 组

100	10.2	3.83
0.64	0.819	10
6.3	6	51.2
0.36	5.2	2
10.2	20.1	1.5
0.81	0.93	16.2
0.8	7.5	0.84
0.96	1.32	0.96
1	10.8	4
39.1	0.28	0.82
0.006	1	25.6
1.93	0.42	14.1
0.74	0.23	2.7
0.72	13.74	0.7
192	4.2	0.13
4.05	4.7	2.1

B 组

11　16　21　26　51

1. 61　2. 101　3. 31

练习 2（第 38 页）

A 组

5.67	0.72	14.8
3	39	0.168
2.31	6	0.051
0.69	1.17	23.09
6	96	0.084
0.001	3.06	3.6
3.2	20.1	1
1	0.93	1
8.21	0.52	11.6
1	4.48	0.305
0.25	0.68	30
0.128	3.6	0.072
4.12	1	1.08
3	2	5
1.23	0.23	4
26	8.3	0.42
7.5	4.2	1.8

B 组

1. $15x$　2. $y \div 300$　3. $a - 200$
4. $a + 4$　5. $5b$　ca　a　x^2

练习 3（第 39 页）

A 组

7.5	1.17	0.72
3.5	96	3.6
8	14	1.48
8.8	9	9.6
16.5	0.52	5.4
11.2	11.1	1.76
0.54	18.9	28.4
12.2	0.68	3.74
36	48.8	6
36.9	12.24	6.12
0.42	2	2.6
10.5	0.74	30.6
9.45	100	5.3
56.8	3.24	0.42
6.4	11.7	9.3
30.5	60	38

B 组

1. 略　2. a　15　y　4.5
5.5　b　6.2　2.7　m　n　2.7
a　b　3.6　3.6

练习 4（第 40 页）

A 组

13.8　　5.15　　36

荣德基星级口算大小练

请沿此虚线裁剪下使用

关注微信公众号“教辅资料站”获取更多学习资料

0.75 1.24 5.1
0.42 5.04 13.5
13.8 0.78 16.2
0.65 5.7 3.28
6.18 18 0.38
5.2 8.8 10.4
0.16 61.8 6.6
5.4 0.75 3.5
104 14.2 9.6
12.1 14 2.1
1 12 7.2
12 16.8 9.5
0.64 11.7 45
156 5.4 146
4.88 14.56 1.64

B 组

1. $8x=720$
2. $0.9x=1.8$
3. $(8+10)x=144$
4. $3x-x=24$

练习 5（第 41 页）

A 组

5.4 1 9.6
62 0.35 6.3
9.1 7.2 0.23
21 7.2 0.63
48 71.4 46
190 50 76
10 13.5 8.2
48.18 63 1.2
20.6 21 70
1.5 1.2 75
6 6.5 35.1
15.07 0.9 240
7.2 50.4 2.31
130 97.2 189

B 组

1. $4.3+2x=10.3$（√）
   $8x=0.5$（√）
   $9.6+2.5x=17.15$（√）
2. （1）$x-270=90$ （2）$4x=36$

练习 6（第 42 页）

A 组

0.012 0.048 34.4
38 2.06 0.045
0.84 0.105 32.1
3 0.951 5.4
0.651 4.36 0.0214
1.75 0.085 1.164
0.0638 0.048 0.051
0.117 0.054 0.074
3.14 0.6 2.17
0.01 0.78 1.35
0.116 93 152
0.105 0.7 0.056
0.063 0.72 19.6
0.51 1.32 63.9
0.078 12.9 998
1.2 0.6 0.45

B 组

1. （1）$x=80$ ☑ （2）$x=28$ ☑
   （3）$x=3.2$ ☑
2. 7 7 1.4 3 3 11.7

练习 7（第 43 页）

A 组

0.074 0.74 44.4
2.84 5.46 27
0.4 0.312 10
1 2.16 50
1.65 75 35.6
25.6 3 5
20.8 2.24 17.1
7.2 13.2
9.1 0.84
75 1.94
0.028 6.3
1 0.128
5.49 2.34
5 3.6
9 422.5
1.02 2.1

B 组

1. 9 9 0.8 8 8 27.2
2. 略

练习 8（第 44 页）

A 组

12 0.91 4.8
39 20 2.9
3.76 2.2 20
0.092 2.7 5
2.2 10 0.9
2.67 60 32
0.85 15.9 15
3.06 20 30
0.54 11.2
1.54
7
0.342
0.88
28
1
1.35
0.054
2.05

B 组

3 3 $6x$ 24 $6x$ 6 24 6
4 8 8 $3x$ 33.6 $3x$ 3 33.6
3 11.2

练习 9（第 45 页）

A 组

13.2 0.2 27
15.4 9.2 0.4
3.9 1.8 9.8
3.9 15.5 28
13.2 19 6
18 400 7
21.2 19.8 19.6
30 9.4

B 组

1. （1）> （2）= （3）= <
2. 略

练习 10（第 46 页）

A 组

10 0.4 4
2 6.5 20
2.1 0.2 4
7 5.5 20
5.5 7 4
22.4 2 3.6
1.5 1.5 10
8 2 8

B 组

1. $4x=120$
2. $30+30+2x=190$
3. $3x+24=54$ 4. $3x-15=60$

第五单元口算能力测试（第 47 页）

A 组

1 44 20
7 4 50
6 8 50
1 8 0.8
15 21 0.2
18 72 10
2 6.5 10
7.5 2

B 组

1. $82+x=140$ 58
2. 平均每月烧 x 吨煤。
   $3x+2.5=10$ 2.5
3. 每筐苹果重 x 千克。
   $20\times18+15x=735$ 25

数学好玩 练习 1（第 48 页）

A 组

4.86 8.08 32
116.6 6.44 0.6
13.2 0.66 25.5
0.86 2.08 3.6
2.32 0.378 19.2
0.04 7.21 18
4.2 1.62 20
0.522 148.6
2.2 8.4
0.98 1.86
0.255 36.24
7.2 0.154
10 8
0.03 6.12
8.2 1.42
18 0.81

荣德基星级口算天天练

请沿此虚线裁剪下使用

关注微信公众号“教辅资料站”获取更多学习资料

B 组

在前 4 个括号里打“✓”。

练习 2（第 49 页）

A 组

0.66	1.08	10
0.28	0.32	40
0.072	22.2	52
2.84	0.099	0.84
1.2	88.4	6
0.98	0.95	2
1.62	2.76	7
0.9	10	10
0.568	1.05	
4.5	11.2	
0.39	0.72	
2.24	0.45	
5.1	7.23	
0.75	0.64	
7.29	1.62	
19.8	0.69	

B 组

③ ① ④ ②

练习 3（第 50 页）

A 组

1.28	1.26	3
2.8	0.65	3
1.98	54.63	7
2.68	1.14	3
3.9	0.102	20
0.484	41.6	21.7
3.36	0.7	2
0.003	6.48	
7.28	0.048	
1.52	25.4	
0.038	0.8	
0.654	0.72	
60	1.2	
1.75	7.8	
8.4	1.3	
0.936	36.6	

B 组

1. 60　2. 5

第六单元　练习 1（第 51 页）

A 组

8	0.33	16
0.4	7.8	1.72
0.48	0.9	10.2
0.15	75	16.2
1.2	4	9.9
10	1.14	1.23
72	0.6	1.4
7.2	4.4	8.1
5.35	21.49	0.52
8	12	2.16
8.4	7.8	2.1
0.07	1.8	0.56
11.7	1.22	15
1.4	2.6	5.8
13.6	0.1078	0.168

B 组

5　16　3　7

1. 童话故事　民间故事

2. 童话故事

练习 2（第 52 页）

A 组

5.7	0.87	7.2
0.016	9.6	1.68
11	0.5	6.4
7.8	1.7	23
0.2	91	9.81
0.84	0.9	17
0.65	5.96	2.19
0.6	5	99
7.2	0.44	6.5
0.7	7.07	2.8
31.2	0.4	320
0.95	1.2	1
1.68	1.8	0.74
0.91	1.9	23.5
2	0.057	0.32
6.9	0.08	10.2

B 组

略

练习 3（第 53 页）

A 组

1.14	0.042	0.64
0.18	0.96	705
64.8	0.98	33.3
5.6	9	5.5
1.83	0.068	2
7.2	2.08	7.2
15.6	3.24	7.2
1.4	19.5	1.64
20	122	64.8
0.3	2.9	1.82
1.1	1.47	23
0.21	14.4	1.36
1.44	0.155	790
12.9	10.4	0.86
32.5	0.288	13.5
11.16	8.1	0.326

B 组

1. 月份　降水量　50　2. 7　8　3. 10　11

练习 4（第 54 页）

A 组

125	1.04	7.2
0.78	0.96	0.024
0.05	0.072	0.48
1.9	0.16	9.6
0.63	1.5	14
0.64	40	9.6
10.5	9.8	4.32
7	6	21
0.5	2.34	0.27
0.96	12.4	0.246
11.2	402	18.8
2.4	360	9.1
0.037	1.08	0.38
36	0.76	1.2
9.09	6.5	43.2
0.66	5.1	100

B 组

1. 140　66　30　2. 140　3. 28

练习 5（第 55 页）

A 组

7	15.5	0.6
12	1	4
3	3.6	1
7	5	0.6
31	1.1	10
4	10	1.05
14.8	20	5
8	1.5	9

B 组

图略　1. 11　12　2. 40

第六单元口算能力测试（第 56 页）

A 组

0.24	1.3	2.7
5.7	1.1	26.5
10	7	5.15
7.01	0.51	0.05
16.2	9.1	2.1
16	0.93	0.5
2	0.7	0.6
2	0.3	0.4

B 组

图略 1. 25　29　2. 5. 62

总复习　练习 1（第 57 页）

A 组

6.8	50.5	10
16.97	4.37	2
31.33	13.41	11.2
17.03	5.2	13.1
0.73	21.85	15.12
7.71	4.31	4.71
11.41	47.21	6
1.06	24.7	15.26
12.87	100.6	9.6
5.4	9.5	19
75.8	82.6	101
10.09	37.25	30.07
34.4	72.1	33.7
10.5	20.4	3
25.55	53.6	43

B 组

1. (1)6.68　(2)11.464　11.459
   (3)6.38　7.88
   (4)6.786　6.766

2. 13.4　0.98　6.85　2.87

练习 2（第 58 页）

A 组

5	57.93	55
8	2	2
9.2	3.9	23
70	0.35	72
0.69	0.34	25.2
6.1	10.3	35
140	2.1	7
8	2.18	137

荣德基星级口算天天练

请沿此虚线裁剪下使用

关注微信公众号“教辅资料站”获取更多学习资料

5 0.126
3.25 3
1.84 5.53
1.58 9.3
0.124 21.35

B 组

1. 略（答案不唯一） 2. 锐角
3. 12（答案不唯一）

练习 3（第 59 页）

A 组

6.4 0.056 51
5.4 1.3 70
0.28 8.5 290
27.6 1.414 0.093
92 1.44 11.88
0.48 0.87 6.3
5.06 85 32
0.72 0.102 6.4
1.2 0.095 171.7
0.88 10.1 700
3.63 1.56 99
0.01 63.6 0.7
7 1.16 0.416
0.014 12 4670
0.054 3.42 45
0.76 24 787

B 组

$3.7\times12.8+0.37\times872$
$=0.37\times128+0.37\times872$
$=0.37\times(128+872)$
$=370$

$999.9\times0.28-0.6666\times370$
$=0.3333\times(3000\times0.28)-0.3333\times(2\times370)$
$=0.3333\times(840-740)$
$=0.3333\times100$
$=33.33$

练习 4（第 60 页）

A 组

1.8 25 60
0.72 7 6.5
236 0.98 48
0.5 10.83 54
1.86 0.27 18.2
0.1 100 85
19 24.7 25
5 0.84 108
0.72 1050
0.57 22
1.8 0.9
0.78 11.2
6.12 8.17
4.25 12.12
1.005 560
21.7 1.68

B 组

1. ①② ③ 2. ①③④ 3. 5

练习 5（第 61 页）

A 组

4 7 7
2 1 4
2.4 10 6.6
3 13.4 8
10 10 1.6
35 1.3 1.5
20 9 2.4
10 11

B 组

1. 海南岛的面积是 x 万平方千米。
$x+0.19=3.58$ 3.39
2. 天安门广场的面积是 x 万平方米。 $2x-16=72$ 44

练习 6（第 62 页）

A 组

55 18 20
3 72 0.8
9 7 1.1
84 20 1.2
45 5 2
10 7 4
11 128 2.7
8.2 9
27
1.2
0.628
18.2
18
0.933
28.8
0.077

B 组

95 92 93

口算能力期末综合测评（一）

（第 63 页）

16.6 12.24 32.09
1.5 21.81 2
18.54 3.33 6.7
6.6 16.34 24.43
8.98 8 17
0.88 67 49
5.05 12.07 27.3
14.1 49.5 21
2.08 11.8 0.51
11.8 53.7 26
7.8 3 14.9
40.6 11.4 4.58
1.1 5.4 6
1.13 10.75 8
7.91 14.87 30
1.21 2.01 55.7
9.9 13.3 49.31
14.96 20.2 36.4
1.31 7.2 12
19.19 21 22.14
30.51 16 1.7
1.9 2.58 0.51
7 4.63 2.3
0.4 74.5 16.46

口算能力期末综合测评（二）

（第 64 页）

0 6.4 2.3
5.4 9.7 0.12
24 0.56 40.8
4.4 13.3 20
7.8 9.7 5.3
4.4 17.7 31.4
140 844 0.126
2.16 4.68 276
4.9 9 19
23.7 20.8 99.4
42 3.6 72
1.36 3.7 1.72
38.6 10.3 20
70.9 0.207 2.8
20 1.92 258
2.88 160 18.8
54.7 10.4 5.2
15.66 2.896 0.216
14.7 80 0.312
2.22 3.1 82.3
1.7 2.73 39.6
5.76 9.9 6
3.06 4.75 5.93
3640 4.34 2.28

口算能力期末综合测评（三）

（第 65 页）

0.66 4.2 50.6
0.34 11.5 90
1000 1 0.18
90 0.152 51
7.8 1.7 6.7
84 6 6.5
1.1 2.15 9
0.36 2.4 306
0.8 0.056 3.74
1.2 0.23 0.129
14.7 1.2 70
17.2 5.28 7.9
5 0.78 288
15 2.14 15.9
0.024 12.4 20
2.4 9.8 1.2
4.6 72 23.4
40 0.084 9
0.96 0.48 6
3.15 4.54 0.91
5 2.6 4.6
1.26 16.64 3.6
100 0.866 7.6

口算能力期末综合测评（四）

（第 66 页）

2.1 28 12.6
2.2 21 2
3 27.6 0.4
2.45 0.9 3
17.1 0.2 0.02
0.7 0.2 1.8
10.7 18.5 4
18 1.1 0.3
24 7 4.5
4.4 2.1 2
1.6 1 3.1
0.52 10 1.2
2 10 5.2

荣德基口算大师

请沿此虚线裁剪下使用

关注微信公众号“教辅资料站”获取更多学习资料