荣德基小学系列

荣德基 主编



星级口算天天练

四年级 数学 下

教辅资料站

电子教辅 试卷练习
知识总结 备课资源

扫码关注获取更多学习资料

时代出版传媒股份有限公司
安徽教育出版社

常规好题题题好 变式妙题道道妙

荣德基 星级口算天天练 四年级数学 下

荣德基小学系列

星级口算天天练

四年级 数学 下

主 编：荣德基　　本册主编：赵智霞



学 校：.....

班 级：.....

姓 名：.....

喜欢的格言：.....

ARTTIME 时代出版
时代出版传媒股份有限公司
安徽教育出版社

关注微信公众号“教辅资料站”获取更多学习资料

图书在版编目（CIP）数据

星级口算天天练. 数学四年级. 下 / 荣德基主编.
— 合肥 ：安徽教育出版社，2019
ISBN 978-7-5336-8997-1

Ⅰ. ①星… Ⅱ. ①荣… Ⅲ. ①速算－小学－习题集
Ⅳ. ①G624.565

中国版本图书馆 CIP 数据核字（2019）第 174206 号

星级口算天天练 · 四年级数学下
XINGJI KOUSUAN TIANTIANLIAN · SINIANJI SHUXUE XIA

出 版 人：费世平
质量总监：武常春
责任编辑：李桂荣
责任校对：师文娟
装帧设计：典点瑞泰
责任印制：荣德印务

出版发行：时代出版传媒股份有限公司　安徽教育出版社
地　　址：合肥市经开区繁华大道西路 398 号　邮编：230601
网　　址：http://www.ahep.com.cn
营销电话：(0551) 63683016，63683015
排　　版：北京华艺优创文化发展有限公司
印　　刷：济南报业文新印务有限公司

开　　本：787×1092　1/16
印　　张：5.5
字　　数：120 千字
版　　次：2019 年 8 月第 1 版　2019 年 8 月第 1 次印刷
定　　价：21.90 元

（如发现印装质量问题，影响阅读，请与本社营销部联系调换）

微信公众号
教辅资料站

关注微信公众号“教辅资料站”获取更多学习资料

CONTENTS

目录

SJ

第一单元　平移、旋转和轴对称

练习1　平　移 …… 1
练习2　旋　转 …… 2
练习3　轴对称 …… 3
第一单元口算能力测试 …… 4





第二单元　认识多位数

练习1　认识亿以内的数（一） …… 5
练习2　认识亿以内的数（二） …… 6
练习3　习题课 …… 7
练习4　认识含有亿级的数（一） …… 8
练习5　认识含有亿级的数（二） …… 9
练习6　习题课 …… 10
练习7　数的改写 …… 11
练习8　近似数 …… 12
练习9　习题课 …… 13
第二单元口算能力测试 …… 14

第三单元　三位数乘两位数

练习1　三位数乘两位数的笔算 …… 15
练习2　总价、单价和数量 …… 16
练习3　路程、速度和时间 …… 17
练习4　习题课 …… 18
练习5　积的变化规律 …… 19
练习6　乘数末尾有0的三位数乘两位数的笔算 …… 20
练习7　习题课 …… 21
第三单元口算能力测试 …… 22



微信公众号 教辅资料站

关注微信公众号“教辅资料站”获取更多学习资料

第四单元　用计算器计算

练习1　用计算器计算 …… 23
练习2　用计算器计算并找规律 …… 24
第四单元口算能力测试 …… 25



第五单元　解决问题的策略

练习1　解决问题的策略（一） …… 26
练习2　解决问题的策略（二） …… 27
练习3　习题课 …… 28
第五单元口算能力测试 …… 29



第六单元　运算律

练习1　加法的交换律和结合律 …… 30
练习2　应用加法运算律进行简便运算 …… 31
练习3　习题课 …… 32
练习4　乘法的交换律和结合律 …… 33
练习5　乘法的分配律 …… 34
练习6　应用乘法运算律进行简便运算 …… 35
练习7　习题课 …… 36
练习8　路程问题 …… 37
练习9　习题课 …… 38
练习10　整理与练习 …… 39
第六单元口算能力测试 …… 40

第七单元　三角形、平行四边形和梯形

练习1　三角形的认识 …… 41
练习2　三角形三边的关系 …… 42
练习3　三角形的内角和 …… 43
练习4　习题课 …… 44

微信公众号
教辅资料站

关注微信公众号“教辅资料站”获取更多学习资料



练习 5　三角形按角分类 …… 45
练习 6　三角形按边分类 …… 46
练习 7　习题课 …… 47
练习 8　平行四边形的认识 …… 48
练习 9　梯形的认识 …… 49
练习 10　习题课 …… 50
练习 11　整理与练习 …… 51
练习 12　多边形的内角和 …… 52
第七单元口算能力测试 …… 53

第八单元　确定位置



练习 1　确定位置（一） …… 54
练习 2　确定位置（二） …… 55
第八单元口算能力测试 …… 56

第九单元　整理与复习

练习 1　平移、旋转和轴对称 …… 57
练习 2　认识多位数 …… 58
练习 3　三位数乘两位数 …… 59
练习 4　用计算器计算 …… 60
练习 5　解决问题的策略 …… 61
练习 6　运算律 …… 62
练习 7　三角形、平行四边形和梯形 …… 63
练习 8　确定位置 …… 64

口算能力期末综合测评（一） …… 65
口算能力期末综合测评（二） …… 66
口算能力期末综合测评（三） …… 67
口算能力期末综合测评（四） …… 68
参考答案 …… 69



微信公众号
教辅资料站

关注微信公众号“教辅资料站”获取更多学习资料

第一单元 平移、旋转和轴对称

难易等级：

练习1 平 移

用时：____分____秒　错误：　个

A组 常规口算题

750 ÷50 =	930 ÷30 =	900 ÷30 =
240 ×4 =	300 ÷60 =	660 ÷60 =
24 ÷6 =	90 ÷30 =	900 ÷10 =
960 ÷16 =	55 ÷5 =	690 ÷30 =
300 ÷30 =	140 ×3 =	2 ×420 =
280 ÷70 =	480 ÷20 =	560 ÷8 =
96 ÷4 =	990 ÷33 =	880 ÷44 =
170 ×5 =	240 ÷40 =	980 ÷49 =
590 ÷10 =	800 ÷20 =	81 ÷3 =
90 ÷6 =	80 ×5 =	432 ÷2 =
660 ÷20 =	115 ÷5 =	480 ÷60 =
980 ÷20 =	214 ×2 =	25 ×4 =
700 ÷70 =	350 ÷50 =	400 ÷80 =
820 ÷41 =	500 ÷25 =	102 ÷2 =
450 ÷90 =	440 ÷40 =	240 ÷30 =
360 ÷18 =	600 ÷20 =	760 ÷38 =

B组 变式口算题

看图填空。

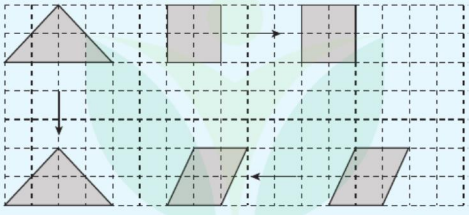

1. 三角形向(　　)平移了(　　)格。

2. 平行四边形向(　　)平移了(　　)格。

3. 正方形向(　　)平移了(　　)格。

微信公众号 教辅资料站

关注微信公众号“教辅资料站”获取更多学习资料

练习2 旋 转

用时：___分___秒 错误： 个

A组 常规口算题

845 ÷5 =	99 ÷11 =	960 ÷80 =
800 ÷10 =	240 ÷60 =	750 ÷50 =
950 ÷50 =	490 ÷70 =	960 ÷48 =
780 ÷39 =	900 ÷45 =	600 ÷3 =
300 ÷50 =	540 ÷90 =	700 ×8 =
520 ÷4 =	280 ÷14 =	250 ×4 =
100 ÷20 =	96 ÷24 =	355 ÷5 =
320 ÷80 =	270 ÷30 =	110 ÷5 =
84 ÷7 =	255 ÷5 =	28 ×30 =
510 ÷17 =	800 ÷2 =	448 ÷4 =
0 ×999 =	120 ×6 =	50 ×9 =
86 ÷43 =	990 ÷9 =	800 ÷40 =
110 ×2 =	680 ÷20 =	490 ÷7 =
320 ÷20 =	280 ÷20 =	700 ÷14 =
560 ÷40 =	800 ÷80 =	720 ÷90 =
810 ÷90 =	930 ÷31 =	320 ÷8 =

B组 变式口算题

看图想一想，填一填。

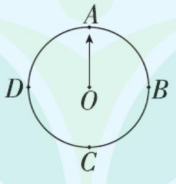

1. 从 A 点到 B 点，指针绕 O 点顺时针旋转(　　)°。

2. 从 A 点到 D 点，指针绕 O 点(　　)时针旋转 90°。

3. 从 A 点到 C 点，指针绕 O 点顺时针旋转(　　)°。

微信公众号 教辅资料站

关注微信公众号“教辅资料站”获取更多学习资料

练习3　轴对称

用时：____分____秒　错误：　个

A组　常规口算题

800 ÷16 =	5 ×21 =	630 ÷70 =
600 ÷30 =	900 ÷10 =	520 ÷40 =
4 ×72 =	400 ÷20 =	2 ×42 =
400 ÷50 =	400 ÷80 =	800 ÷50 =
35 ×3 =	160 ÷10 =	62 ÷2 =
300 ÷15 =	64 ÷4 =	121 ×4 =
700 ÷7 =	600 ÷12 =	330 ÷11 =
880 ÷40 =	600 ×5 =	720 ÷8 =
500 ÷25 =	180 ÷2 =	16 ×5 =
211 ×4 =	87 ÷3 =	560 ÷14 =
784 ÷7 =	123 ×3 =	480 ÷24 =
98 ÷2 =	630 ÷9 =	724 ÷2 =
560 ÷28 =	270 ÷30 =	144 ÷8 =
740 ÷20 =	72 ÷36 =	560 ÷70 =
360 ÷12 =	900 ÷15 =	320 ÷80 =
300 ÷20 =	52 ×4 =	212 ×4 =

B组　变式口算题

画出轴对称图形的另一半。

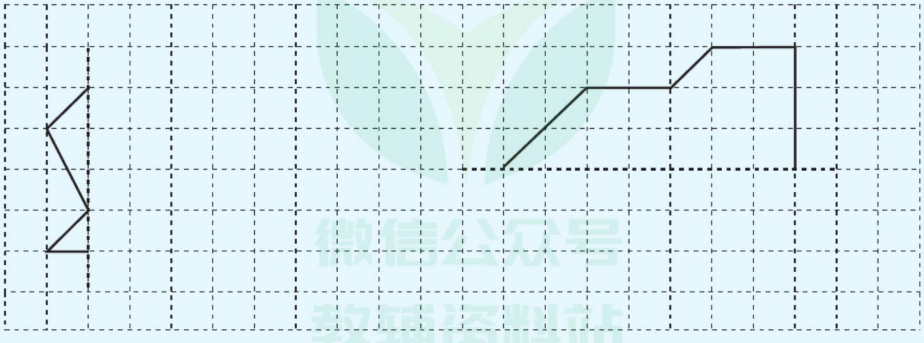

微信公众号
教辅资料站

关注微信公众号“教辅资料站”获取更多学习资料

第一单元口算能力测试

用时：____分____秒 错误：　个

A组 常规口算题

810 ÷30 =	960 ÷24 =	700 ÷35 =
200 ÷20 =	100 ÷4 =	480 ÷12 =
220 ÷5 =	920 ÷10 =	900 ÷45 =
560 ÷80 =	400 ×2 =	75 ÷25 =
40 ÷20 =	84 ÷21 =	5 ×500 =
900 ÷60 =	150 ÷3 =	110 ÷2 =
51 ÷3 =	900 ÷20 =	54 ÷2 =
600 ÷50 =	510 ÷17 =	400 ÷80 =
770 ÷70 =	64 ÷4 =	8 ×60 =
550 ÷11 =	360 ÷60 =	480 ÷6 =
210 ÷30 =	8 ×210 =	360 ÷5 =
33 ÷3 =	240 ÷4 =	900 ÷15 =
52 ×30 =	360 ÷30 =	240 ÷20 =
180 ÷6 =	500 ÷25 =	212 ×3 =
800 ÷80 =	130 ÷2 =	85 ÷5 =
4 ×140 =	560 ÷20 =	161 ÷7 =

B组 变式口算题

仔细观察，填一填，画一画。

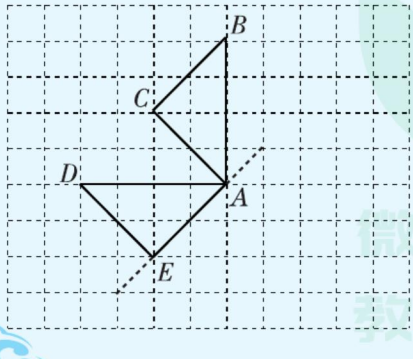

1. 三角形 *ABC* 绕 *A* 点逆时针旋转(　　)度后得到三角形 *ADE*。
2. 画出三角形 *ABC* 绕 *B* 点逆时针旋转 90 度后的图形，再画出此图形向下平移 2 格后得到的图形。
3. 若三角形 *ADE* 是某个轴对称图形的一半，*AE* 所在直线是它的对称轴，画出它的另一半。

关注微信公众号“教辅资料站”获取更多学习资料

难易等级：

练习1 认识亿以内的数（一）

用时：___分___秒　错误：　个

A组 常规口算题

480 ÷30 =	990 ÷45 =	600 ÷50 =
225 ÷25 =	283 −72 =	54 ×5 =
163 +206 =	720 ÷10 =	394 −215 =
99 ÷11 =	988 −722 =	660 ÷30 =
120 ÷40 =	480 ÷16 =	125 ×4 =
274 +23 =	210 ÷30 =	24 +236 =
280 ÷20 =	132 +65 =	680 ÷40 =
93 ÷31 =	920 ÷40 =	530 +245 =
428 −136 =	105 ×9 =	620 ÷2 =
960 ÷60 =	960 ÷48 =	583 −65 =
637 −215 =	417 −305 =	880 ÷80 =
840 ÷42 =	141 +273 =	120 ×6 =
321 +476 =	420 ÷20 =	860 ÷43 =
360 ÷30 =	986 −72 =	910 ÷70 =
94 ÷47 =	780 ÷30 =	528 +330 =
762 +35 =	280 +423 =	542 +37 =

B组 变式口算题

1. 按要求数数。（填空）

（1）一百零八万，一百零九万，_____，一百一十一万，_____。

（2）七百八十万，_____，八百万，八百一十万，_____。

2. 填空。

（1）10 个一千是（　　），10 个十万是（　　）。

（2）（　　）个一万是十万，10 个一百万是（　　）。

关注微信公众号“教辅资料站”获取更多学习资料

练习2 认识亿以内的数（二）

用时：___分___秒 错误：　个

A组 常规口算题

◆ 读出下列各数。

42300 读作：_____

70490 读作：_____

60075800 读作：_____

23005090 读作：_____

60000 读作：_____

100004 读作：_____

548000 读作：_____

6250000 读作：_____

1070000 读作：_____

2005000 读作：_____

7080001 读作：_____

253400 读作：_____

7050505 读作：_____

62370 读作：_____

50005 读作：_____

782050 读作：_____

◆ 写出下列各数。

四百六十万三千 写作：_____

八百万 写作：_____

六千四百五十二万 写作：_____

四十五万零三百七十 写作：_____

十万零四 写作：_____

二十万三千 写作：_____

一百万零四百 写作：_____

二十万三千二百 写作：_____

七十八万零二十 写作：_____

一千二百万零五 写作：_____

七千零三十万 写作：_____

五十五万零五百 写作：_____

六十二万三千八百零二 写作：_____

一万零三百零五 写作：_____

七百二十万 写作：_____

六万五千零二十 写作：_____

B组 变式口算题

1. 62782080 里面有(　　)个千万、(　　)个百万、(　　)个十万、(　　)个万、(　　)个千和(　　)个十。

2. 一个七位数，最高位上是 9，万位上是 8，其他各位上都是 0，这个数是(　　)。

3. 一个六位数，最高位上是 4，最低位上是 6，其他各位上都是 0，这个数是(　　)。

4. 最大的八位数是(　　)，最小的六位数是(　　)。

微信公众号 教辅资料站

关注微信公众号“教辅资料站”获取更多学习资料

练习3　习题课

用时：___分___秒　错误：　个

A组　常规口算题

◆ 读出下列各数。

10000000	读作：_____
60500	读作：_____
7025000	读作：_____
700004	读作：_____
17250000	读作：_____
3128000	读作：_____
7050000	读作：_____
25000050	读作：_____
10800	读作：_____
32005000	读作：_____
78000000	读作：_____
10045050	读作：_____
60370037	读作：_____
25100000	读作：_____
13000090	读作：_____
7250500	读作：_____

◆ 写出下列各数。

十五万零二百	写作：_____
七千三百万	写作：_____
六百零五万零五十	写作：_____
七万零一	写作：_____
二百八十万五千	写作：_____
三万二千	写作：_____
十五万五千	写作：_____
四百零三万零五十	写作：_____
一千一百二十五万	写作：_____
六百三十万	写作：_____
八千零五万	写作：_____
四十万零四十	写作：_____
二百三十八万五千零一	写作：_____
八千五百万	写作：_____
十万零五百	写作：_____
三百五十二万三千	写作：_____

B组　变式口算题

1. 写出下列横线上的数表示的意义。

4329800 _____　　90786 _____

12345678 _____　　2090050 _____

2. 已知100张纸大约厚1厘米，照这样推算，10000张这样的纸大约厚1米，10000000张这样的纸大约厚_____米。（填“10”“100”或“1000”）

关注微信公众号“教辅资料站”获取更多学习资料

练习4 认识含有亿级的数（一）

用时：____分____秒 错误：　个

A组 常规口算题

609 ÷3 =	560 ×2 =	5 ×24 =
440 ÷40 =	678 +122 =	490 ÷70 =
230 +170 =	640 ÷80 =	782 +220 =
240 ×3 =	800 −230 =	960 ÷80 =
96 ÷32 =	287 ÷7 =	240 ÷60 =
640 −230 =	86 +94 =	450 +125 =
150 ×7 =	8 ×32 =	141 ÷3 =
78 +32 =	570 ÷30 =	890 −690 =
540 ÷90 =	72 ×4 =	560 ÷2 =
560 −21 =	500 −340 =	230 −123 =
18 ×6 =	96 ÷6 =	92 ×6 =
800 ÷50 =	18 +74 =	164 ÷4 =
450 +120 =	320 ÷40 =	120 +381 =
700 ×8 =	890 −230 =	60 ÷5 =
52 ÷4 =	420 ÷21 =	42 ×5 =
955 −249 =	670 +230 =	57 +98 =

B组 变式口算题

1. 20800000000 里面有(　　)个亿，读作(　　)。
2. 320000000000 里面有(　　)个亿，读作(　　)。
3. 1300000000 里面有(　　)个亿，读作(　　)。
4. 在数位顺序表中，从个位起，第四位是(　　)，第八位是(　　)。
5. 亿位的右边一位是(　　)，左边一位是(　　)。
6. 最高位是十亿位的数是(　　)位数。
7. 一个十二位数，它的最高位是(　　)位。

微信公众号 教辅资料站

关注微信公众号“教辅资料站”获取更多学习资料

练习5　认识含有亿级的数（二）

用时：___分___秒　错误：　个

A组　常规口算题

◆ 读出下列各数。

300000000	读作：_____
28500000	读作：_____
72085005000	读作：_____
120000000000	读作：_____
128730000	读作：_____
608000000	读作：_____
10510501050	读作：_____
372500000	读作：_____
1300000005	读作：_____
65200000000	读作：_____
10332000000	读作：_____
70700000000	读作：_____
700070007	读作：_____
123456000	读作：_____
325000500	读作：_____
7800000000	读作：_____

◆ 写出下列各数。

十三亿	写作：_____
一亿零七万	写作：_____
三亿二千八百万	写作：_____
二百五十亿	写作：_____
一千零二亿	写作：_____
一亿二千零五万三千	写作：_____
六亿零五千	写作：_____
七十亿零五十万	写作：_____
六百八十二亿	写作：_____
一百二十三亿五千万	写作：_____
十亿	写作：_____
二百三十亿零二百万	写作：_____
七百零三亿零八十	写作：_____
三千二百亿	写作：_____
五十亿七千万	写作：_____
十亿零八百	写作：_____

B组　变式口算题

1. 填空。

（1）70853000000 里面有(　　)个亿和(　　)个万。

（2）1300 个亿和 5 个千万、6 个百万组成的数是(　　)。

（3）一个数的十亿位和百万位上都是8，其他各位上都是0，这个数是(　　)。

2. 下面每个数中的“5”各表示多少？连一连。

5876432	65000000000	1200500000	500000000
5 个亿	5 个十万	5 个百万	5 个十亿

微信公众号
教辅资料站

关注微信公众号“教辅资料站”获取更多学习资料

练习6 习题课

用时：___分___秒 错误：　个

A组 常规口算题

◆ 读出下列各数。

1370000000 读作：_____

38000000000 读作：_____

1000000000 读作：_____

6525000000 读作：_____

54000000000 读作：_____

108000000 读作：_____

300080000 读作：_____

432100000 读作：_____

300000050 读作：_____

512050500 读作：_____

1330005000 读作：_____

678000080 读作：_____

325000000 读作：_____

999900009 读作：_____

70000000000 读作：_____

4900000000 读作：_____

◆ 写出下列各数。

一百五十亿 写作：_____

七十二亿零三千 写作：_____

一亿三千八百万 写作：_____

七百一十五亿 写作：_____

六亿五千零五万 写作：_____

三亿零五万 写作：_____

七亿零五千三百 写作：_____

三千四百亿 写作：_____

四百零二亿七千零八万 写作：_____

六亿七千万零五十 写作：_____

一千三百二十五亿 写作：_____

五十二亿三千万 写作：_____

八亿九千万零八十 写作：_____

七百八十二亿五千万 写作：_____

三千二百八十亿 写作：_____

十亿零五百 写作：_____

B组 变式口算题

用1,3,6,0,0,4,2,5,3按要求组数。

1. 组成最大的九位数_____。

2. 组成最小的九位数_____。

3. 只读一个零的数_____。（只写一个即可）

4. 读两个零的数_____。（只写一个即可）

微信公众号 教辅资料站

关注微信公众号“教辅资料站”获取更多学习资料

练习7　数的改写

用时：____分____秒　错误：　个

A组　常规口算题

◆ 改写成用“万”作单位的数。

1600000 =

32260000 =

15000000 =

9000000 =

18340000 =

10500000 =

7080000 =

21200000 =

90000000 =

580000 =

42750000 =

12300000 =

6000000 =

50500000 =

◆ 改写成用“亿”作单位的数。

100000000 =

600000000 =

1000000000 =

21000000000 =

54100000000 =

11000000000 =

7000000000 =

90000000000 =

71000000000 =

8200000000 =

25400000000 =

10800000000 =

64100000000 =

812000000000 =

◆ 比较大小。

100078090 ◯ 100078120

1230000 ◯ 1239000

780060050 ◯ 760000890

230040000 ◯ 320000400

123089 ◯ 112309

2900700 ◯ 2908000

1504030000 ◯ 1504020000

111452890 ◯ 111453120

562241 ◯ 561687

256807000 ◯ 258076000

1234000 ◯ 987000

990909 ◯ 990900

1001000 ◯ 1010000

1600000 ◯ 16000000

B组　变式口算题

1. 一个九位数，它的最高位是(　　)位；一个十一位数，它的最高位是(　　)位。

2. 最小的十位数是(　　)，最大的九位数是(　　)。

3. 比较下面每组中两个数的大小。

345600 ◯ 34 万　　400000000 ◯ 4 亿　　500000 ◯ 49 万

297860000 ◯ 3 亿　　456700 ◯ 47 万　　879650000 ◯ 9 亿

关注微信公众号“教辅资料站”获取更多学习资料

练习8 近似数

用时：___分___秒 错误：　个

A组 常规口算题

◆ 比较大小。

15291300 ◯ 52913200

29132 ◯ 22685

15001 ◯ 198757

134731 ◯ 347310

347312000 ◯ 731699000

188326 ◯ 326096

883260 ◯ 6096540

1870318 ◯ 253000

6678000 ◯ 1200000

340021 ◯ 2300000

1287563 ◯ 5400001

11000000 ◯ 10000000

◆ 改写成用“万”作单位的近似数。

38450≈

726300≈

260400≈

151000≈

801439≈

324578≈

1864530≈

3602000≈

3508210≈

5000249≈

40013596≈

90835521≈

12345678≈

6095020≈

◆ 改写成用“亿”作单位的近似数。

886550000≈

648000000≈

4537960000≈

18751250000≈

776540000≈

86440000000≈

10890000000≈

4316070000≈

1211950000≈

130500000≈

24700000020≈

456020000≈

681811001≈

582700000≈

B组 变式口算题

1. 地球到月球的平均距离大约是三亿八千四百四十万米，三亿八千四百四十万写作(　　)，改写成用“万”作单位的数是(　　)万，省略亿位后面的尾数约是(　　)亿。

2. 一个数省略万位后面的尾数后约是 8 万，这个数最大是(　　)，最小是(　　)。

3. □里可以填哪些数字？

32□518≈33 万(　　)　　209□321≈210 万(　　)

425□132≈425 万(　　)　　3□4250000≈3 亿(　　)

微信公众号 教辅资料站

关注微信公众号“教辅资料站”获取更多学习资料

练习9　习题课

用时：____分____秒　错误：　个

A组　常规口算题

◆ 比较大小。

450001 ◯ 451001

87000 ◯ 85690

659200 ◯ 65920

74078 ◯ 70478

591234 ◯ 592134

3087030 ◯ 3080730

87106 ◯ 78107

164990 ◯ 165049

74899 ◯ 47899

50990002 ◯ 50906003

999500 ◯ 989500

46321005 ◯ 46331005

1600000 =（　　）万

728000000000 =（　　）亿

80900000000 =（　　）亿

210000 =（　　）万

80000 =（　　）万

9600000000 =（　　）亿

4050000 =（　　）万

13600000 =（　　）万

200500000000 =（　　）亿

3900000000 =（　　）亿

2360000 =（　　）万

65000000000 =（　　）亿

73600000000 =（　　）亿

5080000 =（　　）万

3800000 =（　　）万

362048 ≈（　　）万

4295067 ≈（　　）万

3648527200 ≈（　　）亿

1670023540 ≈（　　）亿

4600300 ≈（　　）万

2989075000 ≈（　　）亿

123720000 ≈（　　）亿

568900 ≈（　　）万

5670253289 ≈（　　）亿

75490360000 ≈（　　）亿

637843 ≈（　　）万

11192000 ≈（　　）万

875623400 ≈（　　）亿

5093700000 ≈（　　）亿

98700 ≈（　　）万

B组　变式口算题

1. 将下列数据按从大到小的顺序排列。

（1）32000　78090　56000　89000 _____

（2）4500000　4005000　45000000　4050000 _____

2. ◯ 里最小能填几？

87965 <8 ◯ 980　　90876 <90 ◯ 76　　12345 <1 ◯ 345

340980 <340 ◯ 87　　56098 <5 ◯ 780　　65409 <65 ◯ 23

关注微信公众号“教辅资料站”获取更多学习资料

第二单元口算能力测试

用时：___分___秒 错误：　个

A组 常规口算题

◆ 写数。

一百六十三万八千四百	写作：_____	
三亿五千四百万	写作：_____	
三千零五万六千	写作：_____	
十二亿	写作：_____	
八十亿零三百万零四	写作：_____	
七百亿零四百万零三十	写作：_____	
一亿八千万五千	写作：_____	
一百亿六千万四千八百	写作：_____	
五千零三十亿零四十万九千	写作：_____	
二千零六万八千零八	写作：_____	
九百九十九万	写作：_____	
一千亿零五百	写作：_____	
四十三亿零三十万零五	写作：_____	
二亿零六百万五千	写作：_____	
二十八万七千三百一十七	写作：_____	

◆ 读数。

2406780000	读作：_____	
4200890000	读作：_____	
1000001000	读作：_____	
32400560	读作：_____	
800845600	读作：_____	
310568	读作：_____	
7985006231	读作：_____	
5542108023	读作：_____	
6180000000	读作：_____	
93504765	读作：_____	
20003546	读作：_____	
8562790012	读作：_____	
1589240	读作：_____	
84560072	读作：_____	
7400051000	读作：_____	

B组 变式口算题

1. 在◯里填上“>”“<”或“=”。

23458000000 ◯ 23158000000　　789000000 ◯ 78900 万

120780000 ◯ 1102300000　　2309000000 ◯ 2380769000

2. 填一填。

3000000000 =（　　）亿　　567000 ≈（　　）万

6548000000 ≈（　　）亿　　14000000000 =（　　）亿

微信公众号 教辅资料站

关注微信公众号“教辅资料站”获取更多学习资料

第三单元 三位数乘两位数

练习1 三位数乘两位数的笔算

用时：____分____秒　错误：　个

A组 常规口算题

32 ×2 =	45 ×10 =	123 ×10 =
708 ×2 =	50 ×69 =	18 ×5 =
64 ×3 =	450 ×4 =	303 ×6 =
18 ×10 =	55 ×6 =	22 ×20 =
19 ×30 =	170 ×3 =	134 ×10 =
25 ×18 =	25 ×20 =	322 ×10 =
16 ×50 =	88 ×30 =	202 ×40 =
508 ×4 =	70 ×90 =	43 ×50 =
33 ×20 =	180 ×8 =	12 ×60 =
78 ×5 =	90 ×40 =	61 ×80 =
45 ×40 =	12 ×20 =	150 ×8 =
55 ×60 =	44 ×30 =	780 ×2 =
104 ×7 =	80 ×23 =	24 ×8 =
50 ×24 =	250 ×4 =	70 ×19 =
210 ×6 =	600 ×7 =	360 ×3 =
90 ×90 =	203 ×5 =	11 ×90 =

B组 变式口算题

根据乘法竖式填写其中的未知数字。

```
   1  6  3
×     2  6
---------
   9  □  8
3  □  6
---------
□  2  □  □
```

```
   2  2  6
×     1  4
---------
   9  □  4
2  □  □
---------
3  □  □  4
```

```
   □  2  □
×        □
---------
   □  8  4
□  □  2
---------
□  □  □  □
```


关注微信公众号“教辅资料站”获取更多学习资料

练习2 总价、单价和数量

用时：___分___秒 错误：　个

A组 常规口算题

33 ×20 =	40 ×51 =	3 ×28 =
15 ×10 =	721 ×4 =	50 ×13 =
41 ×30 =	50 ×12 =	212 ×5 =
40 ×12 =	11 ×11 =	13 ×13 =
66 ×20 =	90 ×21 =	21 ×20 =
50 ×42 =	12 ×60 =	7 ×25 =
126 ×2 =	24 ×40 =	60 ×21 =
40 ×31 =	78 ×30 =	32 ×30 =
53 ×60 =	39 ×20 =	40 ×40 =
23 ×70 =	421 ×4 =	16 ×40 =
25 ×5 =	55 ×20 =	217 ×3 =
18 ×7 =	41 ×80 =	63 ×40 =
47 ×50 =	14 ×6 =	40 ×15 =
26 ×30 =	25 ×40 =	11 ×50 =
9 ×81 =	80 ×51 =	123 ×3 =
60 ×52 =	15 ×30 =	215 ×4 =

B组 变式口算题

1. 下面是希望小学这学期购买教学用具情况统计表，请你填一填。

种类	计算器	三角板	足球	羽毛球拍
单价	(　)元/个	10 元/副	(　)元/个	35 元/副
数量	8 个	120 副	6 个	40 副
总价	208 元	(　)元	192 元	(　)元

2. (1)红星舞蹈团购进 9 套同样的舞蹈服，共用了 945 元，每套舞蹈服(　　)元。

(2)一双足球鞋 150 元，买 6 双总共要用(　　)元。

(3)妈妈用 40 元钱买了 5 千克鸡蛋，平均每千克鸡蛋(　　)元。

关注微信公众号“教辅资料站”获取更多学习资料

练习3　路程、速度和时间

用时：____分____秒　错误：　个

A组　常规口算题

31 ×6 =	33 ×60 =	136 ×3 =
114 ×4 =	72 ×7 =	54 ×80 =
20 ×30 =	26 ×50 =	242 ×3 =
11 ×60 =	26 ×20 =	44 ×90 =
12 ×90 =	20 ×44 =	14 ×50 =
121 ×4 =	412 ×4 =	19 ×40 =
80 ×20 =	31 ×50 =	75 ×20 =
130 ×7 =	60 ×90 =	81 ×9 =
24 ×40 =	115 ×20 =	812 ×5 =
12 ×70 =	108 ×3 =	24 ×60 =
50 ×70 =	69 ×4 =	504 ×7 =
164 ×3 =	345 ×2 =	205 ×30 =
505 ×4 =	72 ×50 =	56 ×5 =
123 ×2 =	40 ×80 =	44 ×60 =
145 ×10 =	51 ×40 =	40 ×70 =
60 ×30 =	69 ×9 =	315 ×4 =

B组　变式口算题

1. 想一想，填一填。

速度	80 千米/时		110 千米/时	360 米/秒
时间	5 小时	4 分钟		20 秒
路程		600 米	990 千米	

2. (1)一辆汽车的行驶速度是每小时 75 千米，可以写成(　　)。

(2)一列火车 2 小时可以行驶 300 千米，这列火车的平均速度是(　　)。

(3)叔叔每天骑自行车去上班，平均每分钟行驶 250 米，他从家到单位大约用 30 分钟，叔叔家距单位(　　)米。

关注微信公众号“教辅资料站”获取更多学习资料

练习4 习题课

用时：___分___秒 错误：　个

A组 常规口算题

14 ×8 =	23 ×30 =	41 ×60 =
15 ×80 =	40 ×17 =	31 ×80 =
542 ×4 =	17 ×30 =	20 ×53 =
91 ×20 =	20 ×21 =	31 ×20 =
707 ×7 =	605 ×50 =	47 ×20 =
70 ×90 =	21 ×9 =	63 ×30 =
22 ×20 =	62 ×40 =	19 ×30 =
145 ×10 =	9 ×81 =	340 ×10 =
15 ×40 =	40 ×41 =	406 ×40 =
75 ×20 =	50 ×25 =	7 ×250 =
404 ×2 =	35 ×40 =	107 ×40 =
19 ×50 =	51 ×70 =	5 ×210 =
21 ×80 =	80 ×105 =	785 ×10 =
16 ×50 =	20 ×40 =	210 ×7 =
20 ×46 =	11 ×70 =	802 ×40 =

B组 变式口算题

1. 竖式计算。

```
  423        587        608
×  22      ×  94      ×  43
-----      -----      -----
```

2. 一件上衣进价115元，服装店老板进了同样的30件上衣，一共用了(　　)元。

3. 一辆汽车平均每小时行驶112千米，15小时共行驶(　　)千米。

关注微信公众号“教辅资料站”获取更多学习资料

练习5　积的变化规律

用时：____分____秒　错误：　个

A组　常规口算题

34 ×5 =	128 ×2 =	72 ×60 =
14 ×70 =	55 ×8 =	60 ×900 =
133 ×3 =	410 ×4 =	88 ×3 =
40 ×20 =	30 ×500 =	521 ×4 =
27 ×30 =	92 ×40 =	70 ×10 =
605 ×4 =	711 ×8 =	33 ×80 =
54 ×20 =	810 ×9 =	150 ×4 =
29 ×30 =	65 ×40 =	38 ×50 =
10 ×700 =	20 ×800 =	60 ×600 =
45 ×2 =	57 ×4 =	81 ×3 =
30 ×10 =	70 ×20 =	50 ×30 =
304 ×50 =	642 ×4 =	909 ×20 =
158 ×2 =	41 ×90 =	70 ×32 =
90 ×101 =	542 ×3 =	88 ×4 =
150 ×5 =	89 ×20 =	76 ×5 =
81 ×80 =	64 ×6 =	13 ×70 =

B组　变式口算题

1. 根据 68 ×42 =2856 直接写出下面各题的得数。

680 ×42 =	68 ×4200 =	68 ×420 =
136 ×42 =	680 ×84 =	680 ×420 =

2. 两个数的积是 120，一个因数乘 3，另一个因数不变，积变成(　　)。

3. 两个数的积是 750，一个因数不变，另一个因数乘 20，积变成(　　)。

4. 如果每人每天节约 2 千克水，30 人每天节约(　　)千克水，60 人每天节约(　　)千克水，600 人每天节约(　　)千克水。

关注微信公众号“教辅资料站”获取更多学习资料

练习6 乘数末尾有0的三位数乘两位数的笔算

用时：___分___秒 错误：　个

A组 常规口算题

402 ×8 =	198 ×10 =	310 ×70 =
19 ×300 =	340 ×20 =	30 ×65 =
55 ×40 =	21 ×7 =	52 ×5 =
31 ×80 =	125 ×30 =	600 ×60 =
250 ×50 =	140 ×20 =	150 ×40 =
70 ×60 =	200 ×90 =	104 ×30 =
900 ×90 =	130 ×40 =	410 ×20 =
250 ×40 =	210 ×60 =	880 ×10 =
50 ×30 =	700 ×30 =	609 ×20 =
220 ×70 =	800 ×80 =	100 ×60 =
404 ×40 =	410 ×10 =	290 ×50 =
209 ×30 =	900 ×40 =	108 ×30 =
308 ×50 =	210 ×70 =	700 ×60 =
100 ×66 =	209 ×20 =	510 ×80 =
170 ×40 =	703 ×30 =	640 ×10 =
810 ×90 =	500 ×50 =	490 ×30 =

B组 变式口算题

1. 在◯里填上“>”“<”或“=”。

470 ×20 ◯ 200 ×47　　30 ×600 ◯ 28 ×600

510 ×5 ◯ 500 ×50　　27 ×400 ◯ 40 ×290

2. 做一做。

6 8 0	1 9	3 7 0	3 5 0
× 5 0	× 9 0 0	× 3 0	× 8 0

关注微信公众号“教辅资料站”获取更多学习资料

练习7　习题课

用时：____分____秒　错误：　个

A组　常规口算题

60 ×70 =	800 ×10 =	540 ×30 =
410 ×40 =	10 ×90 =	110 ×70 =
500 ×20 =	350 ×60 =	50 ×50 =
190 ×40 =	120 ×80 =	600 ×60 =
80 ×600 =	210 ×70 =	30 ×300 =
250 ×40 =	400 ×50 =	270 ×20 =
90 ×22 =	161 ×4 =	70 ×900 =
20 ×60 =	31 ×50 =	660 ×10 =
770 ×20 =	520 ×50 =	800 ×80 =
990 ×30 =	260 ×30 =	40 ×220 =
500 ×10 =	362 ×5 =	241 ×4 =
580 ×50 =	70 ×400 =	600 ×20 =
190 ×30 =	207 ×50 =	700 ×40 =
306 ×60 =	280 ×20 =	110 ×90 =
410 ×80 =	501 ×10 =	30 ×600 =
720 ×20 =	307 ×30 =	440 ×40 =

B组　变式口算题

1. 一盒乒乓球有40个，200盒乒乓球有(　　)个。
2. 一篇文章有478个字，芳芳平均每分钟打60个字，8分钟(　　)打完。(填“能”或“不能”)
3. 王叔叔每小时能铣205个螺丝，他10小时能铣(　　)个螺丝。
4. 1公顷阔叶林一天可制造出750千克氧气，20公顷阔叶林一天可制造出(　　)千克氧气。
5. 一个坏的水龙头每分钟要白白浪费掉160克水，30分钟要浪费掉(　　)克水。

关注微信公众号“教辅资料站”获取更多学习资料

第三单元口算能力测试

用时：___分___秒 错误：　个

A组 常规口算题

42 ×5 =	11 ×80 =	310 ×30 =
124 ×40 =	70 ×70 =	50 ×900 =
180 ×80 =	18 ×800 =	32 ×30 =
40 ×23 =	220 ×30 =	210 ×30 =
170 ×40 =	140 ×70 =	280 ×10 =
250 ×4 =	24 ×50 =	208 ×9 =
78 ×60 =	85 ×8 =	40 ×80 =
440 ×20 =	120 ×80 =	700 ×50 =
15 ×9 =	54 ×20 =	112 ×20 =
80 ×10 =	69 ×4 =	33 ×7 =
52 ×80 =	147 ×2 =	61 ×90 =
320 ×30 =	115 ×4 =	96 ×4 =
38 ×50 =	60 ×49 =	606 ×5 =
540 ×30 =	244 ×5 =	180 ×70 =

B组 变式口算题

1. 一辆汽车从甲地开往乙地用了 6 小时，平均每小时行驶 80 千米，甲乙两地相距(　　)千米。

2. 在□里填上合适的数字。

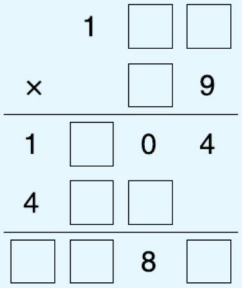

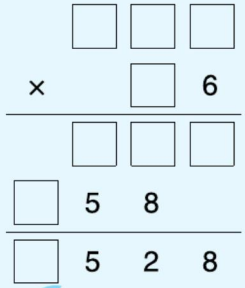

关注微信公众号“教辅资料站”获取更多学习资料

第四单元 用计算器计算

难易等级：

练习1 用计算器计算

用时：____分____秒　错误：　个

A组 常规口算题

500 ×11 =	710 ×30 =	200 ×50 =
840 ×20 =	47 ×3 =	250 ×40 =
145 ×4 =	61 ×8 =	55 ×8 =
523 ×5 =	30 ×12 =	110 ×40 =
78 ×8 =	154 ×6 =	212 ×5 =
658 ×1 =	85 ×4 =	36 ×6 =
25 ×40 =	125 ×8 =	12 ×50 =
64 ×6 =	41 ×8 =	22 ×70 =
141 ×4 =	24 ×30 =	160 ×40 =
45 ×4 =	158 ×5 =	97 ×5 =
245 ×6 =	28 ×6 =	99 ×10 =
400 ×22 =	211 ×4 =	175 ×6 =
94 ×5 =	380 ×5 =	93 ×4 =
611 ×6 =	745 ×2 =	80 ×30 =
57 ×8 =	720 ×7 =	820 ×5 =
810 ×9 =	58 ×8 =	435 ×2 =

B组 变式口算题

1. 某学校准备购买75套新桌椅，每套150元，李老师带了10000元钱，(　　)付款。(填“够”或“不够”)

2. 新学期到了，学校要给全校28个班的同学发放练习本，如果每个班发放250本，应购买(　　)本才够。

3. 小明每分钟能在电脑上打125个字，如果他连续打字16分钟，一共能打(　　)个字。

关注微信公众号“教辅资料站”获取更多学习资料

练习2 用计算器计算并找规律

用时：___分___秒 错误：　个

A组 常规口算题

120 ×70 =	645 ×2 =	10 ×15 =
480 ×20 =	540 ×10 =	603 ×30 =
55 ×100 =	79 ×5 =	80 ×40 =
50 ×600 =	158 ×8 =	320 ×20 =
546 ×5 =	40 ×70 =	30 ×800 =
360 ×20 =	280 ×50 =	704 ×40 =
420 ×90 =	110 ×60 =	44 ×30 =
500 ×20 =	125 ×6 =	139 ×3 =
34 ×6 =	74 ×4 =	650 ×30 =
240 ×40 =	380 ×80 =	101 ×9 =
900 ×10 =	20 ×80 =	300 ×60 =
245 ×8 =	119 ×5 =	67 ×6 =
340 ×30 =	502 ×60 =	242 ×4 =
80 ×12 =	770 ×5 =	248 ×2 =
46 ×50 =	680 ×20 =	742 ×3 =
660 ×10 =	415 ×4 =	87 ×6 =

B组 变式口算题

1. 我会根据已知算式直接写出其他算式的得数。

1001 ×134 =134134

1001 ×245 =245245

1001 ×456 = (　　)

1001 ×369 = (　　)

1001 ×642 = (　　)

1001 ×783 = (　　)

2. 用计算器算出下面前两个算式的积，再根据你发现的规律，直接写出其他算式的积。

11 ×99 =　　111 ×999 =

1111 ×9999 =

11111 ×99999 =

111111 ×999999 =

$\underbrace{1\cdots\cdots1}_{20个1} \times \underbrace{9\cdots\cdots9}_{20个9} =$

关注微信公众号“教辅资料站”获取更多学习资料

第四单元口算能力测试

用时：____分____秒　错误：　个

A组 常规口算题

222 ×8 =	24 ×40 =	101 ×30 =
50 ×70 =	500 ×30 =	540 ×20 =
154 ×4 =	330 ×40 =	79 ×30 =
340 ×30 =	460 ×10 =	600 ×70 =
57 ×200 =	18 ×3 =	150 ×8 =
190 ×20 =	40 ×23 =	354 ×5 =
4 ×182 =	160 ×40 =	210 ×70 =
28 ×30 =	430 ×30 =	407 ×9 =
15 ×50 =	272 ×4 =	50 ×40 =
70 ×140 =	300 ×30 =	62 ×30 =
280 ×5 =	60 ×22 =	160 ×70 =
206 ×40 =	291 ×5 =	75 ×4 =
412 ×8 =	330 ×9 =	250 ×60 =
68 ×8 =	542 ×4 =	90 ×42 =
71 ×70 =	810 ×6 =	342 ×3 =
58 ×9 =	603 ×30 =	720 ×80 =

B组 变式口算题

下面的算式都是有一定的规律的，根据前面三个算式的变化规律，在括号里填上适当的数，使等式成立。

1 ×8 +1 =9　　(　　) ×8 +5 =98765

12 ×8 +2 =98　　(　　) ×8 +(　　) =987654

123 ×8 +3 =987　　(　　) ×8 +(　　) =9876543

1234 ×8 +4 =(　　)　　(　　) ×8 +(　　) =98765432

关注微信公众号“教辅资料站”获取更多学习资料

难易等级：

练习1 解决问题的策略（一）

用时：___分___秒　错误：　个

A组 常规口算题

80 ×600 =	82 ×20 =	505 ÷5 =
130 ×50 =	78 +28 =	432 +168 =
890 −760 =	60 ÷15 =	980 ÷70 =
25 ×7 =	280 ×50 =	270 ×3 =
690 ÷30 =	234 +21 =	40 ×180 =
880 ÷22 =	738 ÷9 =	823 +97 =
340 +250 =	678 +212 =	50 ×61 =
30 ×501 =	38 ÷2 =	127 +21 =
700 ÷7 =	678 −267 =	70 ×700 =
200 ×55 =	400 ÷25 =	839 −239 =
89 −25 =	500 ×42 =	250 ×8 =
20 ×231 =	408 ÷8 =	129 +213 =
142 ÷71 =	812 +288 =	40 ×230 =
50 ×500 =	660 ÷15 =	89 +23 =
140 ×20 =	123 −24 =	540 ÷30 =
56 ÷4 =	380 ÷76 =	567 −213 =

B组 变式口算题

看图列算式解决问题。

1. 红花
黄花
192朵
12朵

红花：_____（朵）

黄花：_____（朵）

2. 男生
女生
185人
15人

男生：_____（人）

女生：_____（人）

关注微信公众号“教辅资料站”获取更多学习资料

练习2　解决问题的策略（二）

用时：___分___秒　错误：　个

A组　常规口算题

80 ×210 =	108 ÷36 =	464 ÷4 =
700 ÷14 =	80 ×102 =	650 ÷50 =
100 −48 =	456 +76 =	23 ×4 =
400 ÷20 =	960 ÷120 =	658 −540 =
54 +85 =	482 +28 =	6 ×208 =
400 ÷50 =	420 ÷21 =	61 ×700 =
720 ÷40 =	675 −231 =	754 +560 =
300 ×23 =	2 ×610 =	24 ×60 =
89 +23 =	500 ÷25 =	321 ×20 =
4 ×18 =	8100 ÷90 =	144 +765 =
78 −29 =	78 ÷6 =	860 ÷20 =
30 ×210 =	70 ×102 =	189 +230 =
93 ÷31 =	432 −121 =	30 ×162 =
908 +230 =	80 ×101 =	876 −230 =
312 ×40 =	580 ÷29 =	960 ÷3 =
177 ×10 =	178 +422 =	810 ÷45 =

B组　变式口算题

一个长方形花圃，长120米，如果长增加10米，面积就增加400平方米。原来花圃的面积是多少平方米？（先在下图中画一画，再填空）

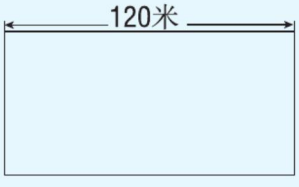

从图中可以看出，原来花圃的宽是(　　)米，原来花圃的面积是(　　)×(　　)=(　　)(平方米)。

关注微信公众号“教辅资料站”获取更多学习资料

练习3 习题课

用时：___分___秒 错误：　个

A组 常规口算题

780 ÷6 =	188 −95 =	300 ×60 =
752 −48 =	460 ÷20 =	20 ×850 =
321 ×20 =	250 ÷25 =	653 −70 =
23 ×40 =	214 ×5 =	168 ÷8 =
680 +120 =	960 ÷16 =	180 +270 =
500 ÷25 =	325 −75 =	960 ÷32 =
150 ×50 =	150 ×2 =	110 ×9 =
788 −655 =	720 ÷40 =	660 −270 =
600 ÷30 =	655 +45 =	540 ×10 =
20 ×400 =	20 ×460 =	350 +150 =
323 −125 =	326 +274 =	880 ×10 =
800 ÷50 =	570 ÷30 =	13 ×13 =
78 +80 =	5 ×410 =	112 +98 =
360 ÷12 =	785 −80 =	215 ×4 =
505 ÷5 =	310 ×30 =	66 +340 =
990 ÷10 =	760 ÷40 =	840 ÷6 =

B组 变式口算题

1. 李华买了4支圆珠笔，其中3支的单价一样，另外1支的价格比这3支的单价贵2元，4支笔一共花了10元，则这两种圆珠笔的单价分别是(　　)元/支和(　　)元/支。

2. 有两筐苹果，甲筐的质量是乙筐的2倍，如果从甲筐拿出5千克放到乙筐，那么两筐苹果同样重，则原来甲筐苹果有(　　)千克，乙筐苹果有(　　)千克。

3. 一块正方形菜地，如果其中一组对边各增加10米，那么面积就增加200平方米，原来这块菜地的面积是(　　)平方米。

关注微信公众号“教辅资料站”获取更多学习资料

第五单元口算能力测试

用时：____分____秒　错误：　个

A组 常规口算题

840 ÷60 =	24 ×30 =	920 ÷40 =
752 +148 =	150 +260 =	123 ÷3 =
960 ÷24 =	312 ÷6 =	80 ×250 =
662 −37 =	325 −75 =	108 ×50 =
211 ×2 =	630 ÷21 =	78 ÷6 =
306 ÷6 =	456 +144 =	652 +138 =
363 ÷33 =	570 ÷30 =	3 ×120 =
20 ×400 =	340 ÷2 =	900 ÷60 =
404 ÷4 =	222 ×0 =	410 ×5 =
350 +520 =	765 −69 =	765 −95 =
23 ×30 =	819 ÷9 =	40 ×510 =
780 −290 =	450 +160 =	321 +79 =
210 ×40 =	20 ×350 =	279 ÷9 =
680 ÷34 =	380 −120 =	500 −143 =
3 ×300 =	5 ×82 =	960 ÷80 =
140 ×30 =	720 ÷24 =	150 ×30 =

B组 变式口算题

1. 五(1)班和五(2)班购买同样的笔记本，五(1)班购买了 43 本，五(2)班购买了 48 本，五(2)班比五(1)班多花了 30 元钱，这种笔记本的单价是(　　)元/本。

2. 一个长方形花圃，如果长增加 4 米，面积就增加 20 平方米，则花圃的宽是(　　)米；如果宽减少 2 米，面积就减少 32 平方米，则花圃的长是(　　)米。原来长方形花圃的面积是(　　)平方米。

关注微信公众号“教辅资料站”获取更多学习资料

难易等级：

练习1 加法的交换律和结合律

用时：___分___秒　错误：　个

A组 常规口算题

44 +59 =	160 +350 =	25 +90 +75 =
700 −440 =	96 +69 =	25 +75 +90 =
564 +220 =	81 −64 =	31 +52 +69 =
28 +340 =	610 +730 =	31 +69 +52 =
900 −177 =	48 +42 =	88 +40 +12 =
162 +17 =	90 −32 =	88 +12 +40 =
99 +70 =	600 +330 =	273 +510 +27 =
876 −641 =	119 +51 =	273 +27 +510 =
460 +790 =	530 −180 =	444 +18 +56 =
621 −493 =	439 +70 =	444 +56 +18 =
75 +160 =	333 −193 =	680 +140 +220 =
605 −540 =	400 +289 =	680 +220 +140 =
216 −158 =	375 +167 =	462 +543 +138 =
646 +288 =	801 −478 =	462 +138 +543 =
510 −344 =	129 +396 =	141 +632 +259 =
76 +384 =	142 −94 =	141 +259 +632 =

B组 变式口算题

1. 根据加法交换律和结合律填空。

43 +77 = □ +43　　66 +22 +78 =66 +（□ +□）

160 +（485 +240）=（160 +□）+485

2. 先计算，再填表。

+	41	120	159	200
41				
120				
159				
200				

关注微信公众号“教辅资料站”获取更多学习资料

练习2　应用加法运算律进行简便运算

用时：____分____秒　错误：　个

A组　常规口算题

51 +86 =	720 −340 =	155 +(67 +45) =
453 −220 =	81 +63 =	900 +108 +92 =
134 +692 =	510 −240 =	46 +127 +54 +373 =
80 +96 =	640 +192 =	414 +(311 +86) =
433 −244 =	56 +70 =	322 +(78 +161) =
900 +310 =	600 −420 =	19 +405 +95 +91 =
81 −67 =	74 +47 =	220 +(390 +610) =
72 +185 =	183 +53 =	55 +490 +145 =
567 −460 =	96 +24 =	237 +(140 +23) =
491 +589 =	110 −70 =	644 +111 +56 +89 =
138 +367 =	931 −63 =	215 +(60 +85) =
518 +269 =	553 +159 =	282 +(118 +339) =
420 −178 =	256 +965 =	114 +245 +186 =
274 +157 =	300 −186 =	244 +55 +35 +156 =
110 −83 =	358 +162 =	401 +(364 +99) =
686 +574 =	611 −548 =	373 +211 +127 =

B组　变式口算题

1. 根据加法交换律和结合律填空。

$a+b+\square=a+(\square+c)$　　$570+180+30=(\square+\square)+180$

$46+71+154+129=(46+\square)+(\square+129)$

$236+181+319+164=(\square+\square)+(\square+\square)$

2. 连线。（将和是整百的两个数用线连起来）

445	182	121	258	117	466	168
79	55	83	142	232	418	34

关注微信公众号“教辅资料站”获取更多学习资料

练习3 习题课

用时：___分___秒 错误：　个

A组 常规口算题

96 +73 +27 =	25 +31 +75 +69 =	450 −71 −129 =
400 −117 −83 =	42 +(205 +58) =	756 −39 −61 =
121 +(42 +179) =	258 −(167 +58) =	270 +319 +130 =
168 +21 +32 +179 =	55 +81 +245 =	789 −466 −34 =
328 −22 −78 =	160 +356 +240 =	249 −(57 +149) =
431 +(55 +69) =	321 −(74 +26) =	500 +178 +22 =
272 −(98 +72) =	29 +74 +71 +26 =	155 −84 −16 =
44 +56 +177 =	340 −95 −105 =	82 +69 +18 =
540 −220 −180 =	35 +65 −35 +65 =	442 −123 −77 =
742 −108 +58 =	435 −(135 +60) =	534 −49 −11 −40 =
58 +68 +142 +32 =	1800 −(39 +861) =	696 −78 −22 =
357 −(76 +157) =	1200 −620 −480 =	(54 +147) +(53 +46) =
770 +120 +230 =	458 −132 −38 =	555 +235 +145 =
629 −147 −329 =	241 +132 +159 =	63 +29 +27 +71 =
511 +(302 +289) =	990 −545 −190 =	452 −136 −64 =
557 −(341 +157) =	643 +129 +157 =	206 +(244 +194) =

B组 变式口算题

1. 要使计算简便，先猜一猜卡片上的数可能是几，再填一填，算一算。

78 + □ +56 =　　87 + □ +13 +169 =　　453 − □ −75 =

□ +143 +66 =　　808 −139 − □ =　　□ +85 +73 + □ =

2. 用合适的方法计算。

2 +4 +6 +8 +⋯ +20 =(　　)

101 +103 +105 +107 +109 =(　　)

关注微信公众号“教辅资料站”获取更多学习资料

练习4　乘法的交换律和结合律

用时：____分____秒　错误：　个

A组　常规口算题

56 ×5 =	340 ×30 =	125 ×3 ×8 =
206 ×2 =	9 ×17 =	25 ×11 ×4 =
123 ×3 =	402 ×20 =	40 ×7 ×5 =
410 ×10 =	35 ×3 =	20 ×(8 ×15) =
60 ×101 =	5 ×112 =	31 ×2 ×5 =
90 ×80 =	245 ×2 =	16 ×20 ×5 =
130 ×30 =	505 ×50 =	25 ×(9 ×8) =
48 ×40 =	90 ×210 =	73 ×25 ×4 =
7 ×305 =	61 ×50 =	9 ×90 ×10 =
80 ×22 =	519 ×5 =	5 ×162 ×4 =
940 ×8 =	701 ×70 =	36 ×(3 ×5) =
173 ×4 =	80 ×200 =	78 ×4 ×5 =
50 ×85 =	900 ×6 =	15 ×(7 ×6) =
245 ×8 =	70 ×310 =	4 ×72 ×15 =
420 ×90 =	157 ×4 =	18 ×9 ×5 =
314 ×3 =	60 ×120 =	55 ×3 ×4 =

B组　变式口算题

1. 根据乘法交换律和结合律填空。

$a \times 67 = 67 \times$ □　　$4 \times 59 \times 25 = 59 \times ($ □ $\times$ □ $)$

$342 \times$ □ $= b \times$ □　　$125 \times ($ □ $\times 21) = ($ □ $\times 8) \times$ □

2. 连线。（将上下两行得数相等的算式用线连起来）

53 ×15 ×2　　(15 ×50) ×4　　99 ×125 ×8　　4 ×(25 ×14)

99 ×(125 ×8)　　53 ×(15 ×2)　　15 ×(50 ×4)　　(4 ×25) ×14

关注微信公众号“教辅资料站”获取更多学习资料

练习5 乘法的分配律

用时：___分___秒 错误：　个

A组 常规口算题

330 ×30 =	421 ×3 =	(100 +2) ×25 =
45 ×20 =	506 ×10 =	100 ×25 +2 ×25 =
74 ×20 =	80 ×800 =	15 ×(4 +8) =
801 ×30 =	55 ×40 =	15 ×4 +15 ×8 =
70 ×12 =	210 ×30 =	75 ×4 +25 ×4 =
522 ×5 =	2000 ×80 =	(75 +25) ×4 =
60 ×90 =	405 ×50 =	(40 +4) ×50 =
96 ×5 =	9 ×111 =	40 ×50 +4 ×50 =
25 ×16 =	60 ×65 =	85 ×20 +15 ×20 =
70 ×37 =	610 ×20 =	(85 +15) ×20 =
80 ×23 =	202 ×40 =	25 ×(30 +8) =
140 ×70 =	39 ×60 =	25 ×30 +25 ×8 =
128 ×5 =	400 ×80 =	21 ×9 +79 ×9 =
42 ×70 =	541 ×6 =	(21 +79) ×9 =
60 ×302 =	20 ×510 =	102 ×16 =
8 ×112 =	92 ×40 =	100 ×16 +2 ×16 =

B组 变式口算题

1. 根据乘法分配律在□里填上合适的数。

(38 +25) ×4 = □ ×4 + □ ×4　　15 ×23 +27 ×15 = (□ + □) ×15

(73 + □) ×10 = □ ×10 +7 × □　　68 ×42 +68 ×58 = (□ + □) × □

2. 根据乘法分配律判断下列算式是否正确。

(1)101 ×76 = 100 ×76 +76(　　)

(2)12 ×8 ×8 ×13 = (12 +13) ×8(　　)

关注微信公众号“教辅资料站”获取更多学习资料

练习6　应用乘法运算律进行简便运算

用时：___分___秒　错误：　个

A组　常规口算题

17 ×5 =	190 ×20 =	85 ×99 +85 =
401 ×90 =	6 ×540 =	25 ×(40 +4) =
360 ×5 =	55 ×60 =	96 ×22 +4 ×22 =
44 ×20 =	307 ×9 =	48 ×45 +45 ×52 =
3 ×422 =	80 ×110 =	101 ×62 −62 =
6 ×511 =	22 ×400 =	(4 +8) ×125 =
305 ×8 =	35 ×80 =	73 ×101 −73 =
51 ×9 =	604 ×20 =	88 ×100 +88 =
950 ×10 =	78 ×100 +78 =	(40 +8) ×125 =
480 ×20 =	200 ×12 =	(125 +60) ×8 =
710 ×8 =	400 ×16 =	78 ×16 +22 ×16 =
27 ×4 =	125 ×5 =	48 ×32 +52 ×32 =
365 ×2 =	510 ×30 =	33 ×75 +25 ×33 =
290 ×20 =	36 ×7 =	77 ×99 +77 =
607 ×30 =	48 ×50 =	50 ×(40 +4) =
164 ×3 =	209 ×30 =	164 ×32 +32 ×36 =

B组　变式口算题

横着看，在得数相同的算式后面画“√”。

1. (12 +18) ×8	12 ×8 +18 ×8 ☐
2. 45 ×23 +45 ×13	45 ×(23 +13) ☐
3. 15 ×25 +25 ×35	15 ×(25 +35) ☐
4. 56 ×31	56 ×30 +30 ☐
5. 25 ×99 +25	25 ×(99 +1) ☐

关注微信公众号“教辅资料站”获取更多学习资料

练习7 习题课

用时：___分___秒 错误：　个

A组 常规口算题

12 ×20 =	222 ×4 =	16 ×23 ×5 =
313 ×3 =	60 ×701 =	(25 +20) ×4 =
215 ×20 =	33 ×50 =	8 ×(125 ×19) =
83 ×30 =	86 ×20 =	25 ×(4 +8) =
818 +112 =	7 ×121 =	173 ×26 −73 ×26 =
30 ×280 =	25 ×50 =	5 ×99 ×20 =
170 ×30 =	80 ×600 =	(40 +16) ×125 =
510 ×5 =	40 ×14 =	18 ×16 +18 ×24 =
66 ×100 =	204 ×30 =	45 ×7 ×2 =
90 ×60 =	81 ×7 =	(125 −60) ×8 =
42 ×4 =	240 ×40 =	69 ×199 +69 =
40 ×810 =	212 ×5 =	43 ×101 =
101 ×9 =	57 ×10 =	25 ×(20 +8) =
768 −108 =	117 ×4 =	(25 +50) ×4 =
25 ×60 =	796 −20 =	65 ×2 ×4 =
500 ×17 =	121 ×80 =	66 ×(1 +100) =

B组 变式口算题

1. 连一连，把得数相等的两个算式连起来。

51 +67 +23　　125 ×44　　780 −(150 +180)　　323 ×99 +323

323 ×100　　51 +(67 +23)　　125 ×4 ×11　　780 −180 −150

2. 用简便方法计算。

110 ×19 +990 ×9　　260 ×36 +640 ×26　　98 ×46

关注微信公众号“教辅资料站”获取更多学习资料

练习8　路程问题

用时：____分____秒　错误：　个

A组　常规口算题

240 ×40 =	20 ×331 =	50 ×39 ×4 =
701 ×6 =	180 ×4 =	73 +(92 +107) =
300 ×35 =	12 ×30 =	105 ×265 −265 ×5 =
423 ×10 =	660 −90 =	125 ×25 ×32 =
40 ×500 =	210 +155 =	786 +(76 +14) =
424 ×2 =	402 ×3 =	153 +(370 +247) =
420 ×30 =	105 ×4 =	100 −54 −26 =
73 ×100 =	460 ×20 =	37 ×9 +63 ×9 =
130 +80 =	318 +180 =	9 ×(100 +20) =
515 ×20 =	150 ×6 =	14 ×35 ×2 =
600 ×3 =	212 ×5 =	188 +231 +212 =
50 ×71 =	11 ×700 =	108 +74 +16 +22 =
306 +422 =	472 +108 =	133 ×70 +37 ×70 =
34 ×50 =	200 ×32 =	453 −(153 +60) =
80 ×30 =	17 ×30 =	125 ×(6 ×4) =
207 ×2 =	22 ×6 =	24 +27 +13 +46 =

B组　变式口算题

1. 甲、乙两人从同一地点相背而行，甲的速度是60米/分，乙的速度是50米/分，经过7分钟，两人相距(　　)米。

2. 甲、乙两人合做一批零件，甲每小时做18个，乙每小时做16个，甲、乙两人合做4小时完成了任务，这批零件一共有(　　)个。

3. 甲、乙两车分别从相距850千米的两城同时出发，沿一条公路相向而行。已知甲车每小时行驶55千米，乙车每小时行驶65千米，两车出发6小时后相距(　　)千米。

关注微信公众号“教辅资料站”获取更多学习资料

练习9 习题课

用时：___分___秒 错误：　个

A组 常规口算题

92 ×3 =	222 ×4 =	125 ×(40 +80) =
14 ×40 =	107 ×8 =	(40 +8) ×25 =
280 ×3 =	32 ×80 =	80 ×9 ×5 =
135 +165 =	900 ×40 =	350 +125 +175 =
60 ×14 =	80 ×12 =	169 −36 −64 =
115 ×2 =	6 ×350 =	(125 +40) ×8 =
136 +264 =	500 ×13 =	25 ×11 ×2 =
42 ×30 =	252 +160 =	103 ×96 +4 ×103 =
15 ×60 =	105 ×3 =	27 ×19 −9 ×27 =
486 −80 =	51 ×20 =	234 +150 +566 +50 =
142 ×5 =	20 ×32 =	23 ×25 ×8 =
83 ×20 =	50 ×120 =	214 +(34 +186) =
4 ×72 =	40 ×801 =	47 ×5 ×2 =
312 ×3 =	48 +360 =	(25 +14) ×4 =
270 −90 =	710 ×5 =	4 ×46 ×25 =
240 ×5 =	63 ×40 =	725 −(90 +125) =

B组 变式口算题

1. 甲、乙两辆车同时从同一地点向相同的方向行驶，甲车的速度是105千米/时，乙车的速度是85千米/时，经过5小时后，两车相距(　　)千米。

2. 工程队修一条长1200米的公路，前5天每天修120米，剩下的要在4天内修完，平均每天要修(　　)米。

3. 小强看一本240页的故事书，前3天每天看30页，剩下的要在3天内看完，平均每天要看(　　)页。

关注微信公众号“教辅资料站”获取更多学习资料

练习 10　整理与练习

用时：____分____秒　错误：　个

A组　常规口算题

24 ×50 =	50 ×71 =	125 ×(9 ×8) =
60 ×41 =	30 ×230 =	265 ×105 −5 ×265 =
27 ×30 =	58 +380 =	185 +550 +450 +15 =
152 +90 =	424 ×2 =	725 −360 −240 =
70 ×11 =	91 ×5 =	25 ×12 ×4 =
242 −132 =	125 ×4 =	26 ×99 +26 =
36 ×30 =	21 ×60 =	50 ×7 ×2 =
2 ×31 =	789 −90 =	16 ×125 +125 ×84 =
812 ×4 =	4 ×104 =	5 ×75 ×4 =
152 +160 =	286 +34 =	2 ×63 ×15 =
17 ×20 =	521 ×3 =	189 −(89 +27) =
245 +570 =	32 ×50 =	180 +72 +220 +328 =
12 ×11 =	180 +240 =	218 +(760 +72) =
63 ×40 =	606 ×50 =	6 ×18 ×5 =
42 ×20 =	65 ×20 =	201 ×101 −201 =
173 ×10 =	330 ×3 =	125 ×32 =

B组　变式口算题

1. 连一连，把得数相等的两个算式连起来。

125 ×88　　783 −(183 +220)　　46 ×740 +460 ×26

46 ×1000　　125 ×8 ×11　　783 −183 −220

2. 小明和小强从相距 1200 米的两地相向而行，小明每分钟走 68 米，小强每分钟走 62 米，经过 5 分钟，两人相距(　　)米。

关注微信公众号“教辅资料站”获取更多学习资料

第六单元口算能力测试

用时：____分____秒 错误：　个

A组 常规口算题

859 −254 −246 =	74 +41 +159 =	4500 ÷6 ÷50 =
40 ×185 −15 ×40 =	63 ×99 +63 =	635 −22 −78 =
25 ×102 =	720 ÷15 ÷2 =	8 ×(25 ×11) =
92 +312 +108 =	97 ×79 +97 ×21 =	3000 ÷12 ÷5 =
442 −145 −155 =	32 ×4 ×25 ×3 =	103 ×61 −61 ×3 =
27 ×125 ×8 =	224 +125 +76 =	756 −(56 −22) =
373 +25 −173 =	560 ÷4 ÷14 =	20 ×40 ×5 =
415 −176 −24 =	229 +37 +71 +63 =	125 ×88 =
178 ×15 +22 ×15 =	390 ÷(13 ×3) =	500 −196 −304 =
360 −99 −71 =	101 ×87 =	43 +17 +85 =
125 +136 +175 +164 =	1800 ÷12 ÷5 =	173 +157 −73 +43 =
23 ×3 +67 ×3 =	(28 +20) ×5 =	480 ÷24 ÷2 =
1900 ÷50 ÷2 =	760 −131 −161 =	674 +332 +126 =
305 +142 +195 =	6 ×54 ×5 =	900 ÷36 =
125 ×16 =	408 ÷(8 ×3) =	102 ×48 =
1850 −380 −620 =	431 +254 +169 =	25 ×18 ×4 =

B组 变式口算题

1. 同学们进行徒步训练，第一天走了 49 千米，第二天走了 43 千米，第三天走了 57 千米，三天共走了(　　)千米。

2. 一座大楼有 25 层，每层有 24 个窗户，每个窗户安装 4 块玻璃，这座大楼一共要安装(　　)块玻璃。

3. 兰兰和红红同时从同一地点出发，兰兰向南走，每分钟走 56 米，红红向北走，每分钟走 44 米，15 分钟后，两人相距(　　)米。

关注微信公众号“教辅资料站”获取更多学习资料

第七单元 三角形、平行四边形和梯形

练习1 三角形的认识

用时：____分____秒　错误：　个

A组 常规口算题

322 ×8 =	27 ×4 =	670 ×10 =
280 ×20 =	14 ×50 =	158 ×2 =
83 ×9 =	70 ×80 =	32 ×6 =
135 ×4 =	460 ×50 =	150 ×30 =
54 ×6 =	145 ×4 =	79 ×3 =
120 ×70 =	28 ×20 =	215 ×60 =
220 ×30 =	272 ×3 =	180 ×40 =
518 ×2 =	43 ×50 =	254 ×5 =
160 ×30 =	20 ×380 =	150 ×60 =
40 ×17 =	14 ×15 =	784 ×2 =
345 ×4 =	68 ×50 =	60 ×20 =
720 ×20 =	554 ×1 =	210 ×90 =
880 ×30 =	443 ×3 =	405 ×40 =
385 ×4 =	209 ×80 =	510 ×70 =
59 ×60 =	32 ×90 =	128 ×4 =
618 ×5 =	40 ×81 =	60 ×94 =

B组 变式口算题

1. 哪些是三角形？哪些不是？是三角形的在下面的括号里画“√”。



(　　)　(　　)　(　　)　(　　)　(　　)

2. 画出下列三角形的一条高。



关注微信公众号“教辅资料站”获取更多学习资料

练习2 三角形三边的关系

用时：___分___秒 错误：　个

A组 常规口算题

410 ×80 =	56 ×4 =	980 ×1 =
432 ×4 =	8 ×25 =	445 ×2 =
121 ×9 =	600 ×80 =	32 ×50 =
130 ×40 =	46 ×6 =	420 ×30 =
82 ×6 =	515 ×2 =	780 ×10 =
124 ×7 =	115 ×40 =	185 ×6 =
9 ×33 =	650 ×3 =	800 ×40 =
700 ×20 =	121 ×7 =	510 ×50 =
106 ×30 =	80 ×210 =	440 ×30 =
70 ×14 =	30 ×15 =	805 ×8 =
155 ×4 =	210 ×50 =	90 ×20 =
288 ×20 =	69 ×6 =	404 ×7 =
563 ×2 =	80 ×70 =	480 ×50 =
710 ×8 =	148 ×5 =	609 ×9 =
88 ×40 =	265 ×4 =	340 ×40 =
62 ×8 =	50 ×34 =	52 ×80 =

B组 变式口算题

下表中哪组的三条线段能围成三角形？能围成三角形的在下面的括号里画“√”，不能围成三角形的在下面的括号里画“×”。（单位：厘米）

第一组	第二组	第三组	第四组
20	50	7	18
20	60	14	7
20	70	26	25
(　　)	(　　)	(　　)	(　　)

关注微信公众号“教辅资料站”获取更多学习资料

练习3　三角形的内角和

用时：____分____秒　错误：　个

A组　常规口算题

145 ×6 =	230 ×30 =	450 +(365 +550) =
31 ×50 =	75 ×5 =	67 +64 +36 =
45 ×30 =	602 ×7 =	542 −154 −246 =
20 ×32 =	130 ×5 =	101 ×25 =
701 ×50 =	13 ×400 =	6 ×55 −6 ×45 =
23 ×8 =	56 ×50 =	6 ×18 ×5 =
67 ×7 =	81 ×50 =	54 ×69 +54 ×31 =
75 ×80 =	30 ×7 =	445 −(160 +145) =
240 ×50 =	651 ×2 =	2 ×74 ×5 =
41 ×3 =	340 ×3 =	37 +(59 +63) =
72 ×2 =	98 ×50 =	230 −68 −32 =
2 ×175 =	803 ×9 =	67 ×125 ×8 =
58 ×50 =	340 ×5 =	34 +35 +65 +66 =
670 ×4 =	509 ×20 =	76 ×99 +76 =
460 ×2 =	41 ×30 =	43 ×33 +43 ×67 =
78 ×20 =	71 ×50 =	16 ×25 =

B组　变式口算题

算一算，将下列图中∠3 的度数填在括号里。

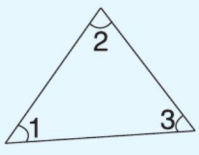

∠1 =50°

∠2 =72°

∠3 =(　　)°

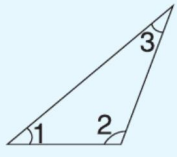

∠1 =42°

∠2 =110°

∠3 =(　　)°

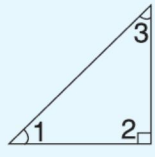

∠1 =45°

∠2 =90°

∠3 =(　　)°

关注微信公众号“教辅资料站”获取更多学习资料

练习4 习题课

用时：___分___秒 错误：　个

A组 常规口算题

33 ×2 =	480 ×20 =	4 ×21 ×25 =
113 ×60 =	72 ×5 =	151 −28 −72 =
800 ×40 =	260 ×5 =	86 ×99 +86 =
80 ×15 =	6 ×17 =	765 −(180 +365) =
601 ×70 =	410 ×90 =	605 ×17 +605 ×83 =
500 ×24 =	160 ×40 =	78 ×101 −78 =
525 ×2 =	131 ×5 =	4 ×25 ×99 =
200 ×14 =	231 ×4 =	52 ×48 +52 ×52 =
40 ×720 =	20 ×39 =	44 ×25 =
90 ×100 =	106 ×40 =	4 ×45 ×25 =
270 ×2 =	2 ×117 =	39 ×2 ×5 =
600 ×12 =	75 ×50 =	600 −182 −18 =
610 ×70 =	510 ×3 =	85 ×43 +85 ×57 =
8 ×91 =	116 ×20 =	425 −49 −11 −40 =
25 ×50 =	242 ×3 =	105 ×99 +105 =
31 ×200 =	300 ×17 =	164 ×24 +36 ×24 =

B组 变式口算题

1. 一个三角形的两个内角的度数分别是 70° 和 32°，则第三个内角的度数是(　　)°。
2. 将一个三角形分成两个小三角形，每个小三角形的内角和是(　　)。
3. 在右面的方格纸上画一个底是 5 厘米、高是 2 厘米的三角形，再画一个底和高都是 3 厘米的三角形。

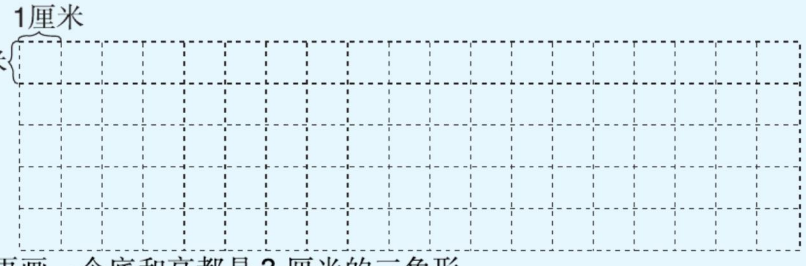

关注微信公众号“教辅资料站”获取更多学习资料

练习5　三角形按角分类

用时：____分____秒　错误：　个

A组　常规口算题

609 ÷3 =	8 ×320 =	625 +135 =
440 ÷40 =	570 ÷30 =	92 ×60 =
240 ×30 =	625 −180 =	164 ÷4 =
182 +218 =	960 ÷6 =	600 ÷5 =
960 ÷32 =	320 ÷4 =	730 ×40 =
150 ×7 =	420 ÷21 =	23 ×6 =
288 −162 =	24 ×60 =	328 −152 =
540 ÷90 =	490 ÷70 =	750 ÷30 =
18 ×60 =	25 +238 =	640 ÷32 =
800 ÷50 =	176 −95 =	680 ÷40 =
185 +105 =	960 ÷80 =	315 −73 =
70 ×80 =	240 ÷60 =	208 ÷4 =
520 ÷4 =	30 ×15 =	49 ×20 =
560 ×20 =	141 ÷3 =	720 ÷20 =
75 +180 =	560 ÷20 =	4 ×170 =
287 ÷7 =	777 +113 =	185 +305 =

B组　变式口算题

1. 连一连。

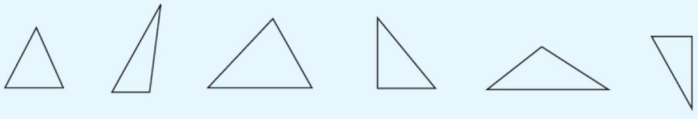

钝角三角形　直角三角形　锐角三角形

2. 在下面的空白处画一个钝角三角形。

关注微信公众号“教辅资料站”获取更多学习资料

练习6 三角形按边分类

用时：___分___秒 错误：　个

A组 常规口算题

580 ÷29 =	17 ×30 =	183 +227 =
652 −72 =	320 ÷80 =	420 ÷60 =
215 ÷5 =	750 −260 =	38 ×50 =
520 ×3 =	340 ×50 =	480 ÷3 =
920 ÷40 =	840 ÷60 =	715 +85 =
46 ÷2 =	406 ÷2 =	940 ÷20 =
420 ÷7 =	39 ×30 =	408 ÷4 =
20 ×19 =	189 −99 =	280 ×6 =
369 ÷3 =	170 ×40 =	960 ÷40 =
480 ÷20 =	660 ×3 =	888 −98 =
80 ×12 =	360 ÷12 =	420 ×3 =
96 ÷24 =	20 ×46 =	900 ÷45 =
63 ×40 =	960 ÷30 =	420 ÷20 =
420 ÷3 =	60 ×32 =	72 ×40 =
140 ×9 =	84 ÷42 =	780 ÷20 =
159 +91 =	5 ×230 =	180 ×40 =

B组 变式口算题

连一连。

最大的角是直角	锐角三角形
有两条边相等	直角三角形
三个角都是60°	钝角三角形
没有直角和钝角	等边三角形
有一个角是135°	等腰三角形

关注微信公众号“教辅资料站”获取更多学习资料

练习7　习题课

用时：____分____秒　错误：　个

A组　常规口算题

480 ÷16 =	199 +78 =	24 ×20 =
320 ×6 =	960 ÷48 =	360 ÷30 =
60 ×25 =	20 ×94 =	960 ÷6 =
770 +230 =	850 ÷50 =	5 ×120 =
280 ÷20 =	121 +232 =	70 ×31 =
20 ×36 =	540 ÷18 =	450 ÷3 =
710 ×9 =	130 ×4 =	680 ÷17 =
840 ÷70 =	900 ÷60 =	160 ×30 =
48 ×30 =	128 ÷4 =	338 −76 =
440 ÷4 =	752 −82 =	480 ÷20 =
652 −172 =	36 ×40 =	106 ÷2 =
309 ÷3 =	50 ×21 =	259 −96 =
230 ×50 =	110 ×9 =	320 ×3 =
680 ÷20 =	640 ÷40 =	27 ×20 =
750 −180 =	179 −98 =	630 ÷3 =
820 ×6 =	780 ÷13 =	415 +85 =

B组　变式口算题

1. 填空。

(1)在△ABC中，已知∠A=70°，∠B=30°，那么∠C的度数为(　　)。

(2)在△ABC中，已知∠A为直角，∠C=30°，那么∠B的度数为(　　)。

(3)已知等腰三角形的一个底角为50°，那么它的顶角的度数为(　　)。

2. 红领巾的形状是等腰三角形，已知它的顶角的度数为120°，则它的一个底角的度数为(　　)。

关注微信公众号“教辅资料站”获取更多学习资料

练习8 平行四边形的认识

用时：___分___秒 错误：　个

A组 常规口算题

142 ×60 =	330 ÷2 =	15 ×23 +17 ×15 =
960 ÷40 =	120 ×60 =	35 +65 −35 −65 =
150 ×40 =	720 ÷20 =	12 ×25 =
345 ×2 =	780 ×10 =	38 ×99 +38 =
63 ×300 =	81 ×8 =	73 ×101 =
19 ×40 =	380 ÷19 =	567 −(212 +167) =
188 +72 =	160 ×50 =	385 −197 +115 =
28 ×40 =	610 ×30 =	141 +38 +59 +62 =
50 ×32 =	690 ÷30 =	104 ×25 =
357 ÷7 =	780 ÷13 =	5 ×17 ×8 =
112 ×5 =	77 ×2 =	99 ×151 +151 =
540 ×40 =	192 −18 =	643 −354 −146 =
91 ×70 =	64 ×50 =	489 −(189 +125) =
980 ÷20 =	453 ×3 =	34 ×102 =
288 −196 =	560 ÷40 =	642 −120 +58 =
906 ÷6 =	525 +75 =	25 ×52 =

B组 变式口算题

1. 画出平行四边形指定底边上的高。



2. 在方格纸上画一个底是6厘米、高是5厘米的平行四边形，再画一个底和高都是4厘米的平行四边形。



关注微信公众号“教辅资料站”获取更多学习资料

练习9　梯形的认识

用时：____分____秒　错误：　个

A组　常规口算题

202 ×8 =	300 ÷20 =	25 ×24 =
130 ×7 =	660 ÷22 =	350 +285 +215 =
580 −170 =	141 ×6 =	542 −124 −76 =
360 ÷20 =	510 −70 =	102 ×36 −2 ×36 =
450 ÷30 =	780 ÷30 =	89 +66 +34 =
350 ×40 =	662 ×3 =	25 ×23 ×4 =
180 ×30 =	650 −75 =	108 ×25 =
152 +72 =	64 ×3 =	8 ×65 −8 ×35 =
49 ×40 =	115 ×40 =	56 ×69 +56 ×31 =
720 ÷12 =	142 ×5 =	101 ×67 =
520 ÷40 =	330 +273 =	2 ×(74 ×5) =
76 ×5 =	414 ×5 =	47 +59 +53 =
375 ÷5 =	510 ×20 =	34 ×4 ×5 =
168 ×5 =	750 −280 =	231 −(68 +131) =
730 −240 =	840 ×4 =	17 ×125 ×8 =
600 ×14 =	600 ÷40 =	5 ×89 ×2 =

B组　变式口算题

1. 标出梯形各部分的名称，并画出梯形的一条高。

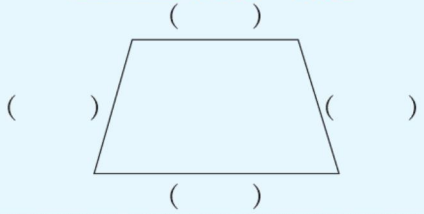

2. 在方格纸上画一个上底是3厘米、下底是6厘米、高是2厘米的梯形。



关注微信公众号“教辅资料站”获取更多学习资料

练习10 习题课

用时：___分___秒 错误：　个

A组 常规口算题

39 +256 =	58 ×5 =	64 +25 +36 +75 =
145 ×6 =	878 −245 =	19 ×125 ×8 =
876 −345 =	920 ÷20 =	45 +55 −45 +55 =
155 ÷5 =	75 ×30 =	83 ×101 =
45 ×30 =	90 +671 =	56 ×53 +56 ×47 =
45 +781 =	690 ÷3 =	16 ×25 =
720 ÷80 =	325 ÷5 =	4 ×19 ×25 =
640 ÷20 =	765 −123 =	102 ×15 =
349 −256 =	602 ×70 =	85 ×99 +85 =
701 ×50 =	650 ÷5 =	67 ×25 ×4 =
23 ×80 =	13 ×400 =	765 −(165 +180) =
679 +67 =	69 +523 =	79 +8 +21 =
75 ×80 =	56 ×50 =	31 ×2 ×5 =
123 ÷3 =	631 −230 =	4 ×13 ×25 =
144 ÷12 =	245 ÷5 =	850 −27 −53 =
370 ÷2 =	651 ×2 =	4 ×34 ×5 =

B组 变式口算题

1. 判断。

(1)有一组对边平行的四边形就是梯形。(　　)

(2)电动伸缩门利用了平行四边形容易变形的性质。(　　)

(3)平行四边形只有两条高。(　　)

(4)梯形上下底之间的距离处处相等。(　　)

(5)两个完全一样的梯形一定能拼成一个平行四边形。(　　)

2. 将下面的梯形分成一个平行四边形和一个三角形。



关注微信公众号“教辅资料站”获取更多学习资料

练习 11　整理与练习

用时：____分____秒　错误：　个

A组　常规口算题

101 ×28 =	25 ×4 ×17 =	4 ×43 ×25 =
25 ×67 ×4 =	165 +232 +235 =	733 −(250 +133) =
25 ×48 =	55 ×70 +30 ×55 =	4 ×8 ×125 =
75 ×25 +75 ×75 =	40 ×(70 +25) =	395 +158 +242 =
130 +97 +70 =	20 ×39 ×5 =	63 ×4 ×25 =
8 ×75 −8 ×35 =	50 ×(12 +40) =	136 ×35 +64 ×35 =
47 ×6 +53 ×6 =	268 ×7 +132 ×7 =	125 ×29 ×8 =
562 −123 −77 =	648 +320 +152 =	2 ×5 ×96 =
27 ×25 +13 ×25 =	755 −(69 +155) =	218 ×50 +50 ×82 =
125 ×16 =	38 ×61 +62 ×61 =	8 ×78 ×125 =
34 ×4 ×25 ×3 =	25 ×(40 +4) =	6 ×16 ×5 =
38 +26 +174 =	28 ×102 =	50 ×61 ×2 =
53 ×25 ×8 =	54 +158 +242 +66 =	31 ×15 +69 ×15 =
132 ×42 −42 ×32 =	259 ×9 +541 ×9 =	4 ×8 ×25 ×125 =
696 +178 −396 =	43 ×150 −13 ×150 =	619 −(58 +19) =
136 +45 +35 =	350 −125 −175 =	64 ×5 ×4 =

B组　变式口算题

1. 画出下列图形底边上的高。

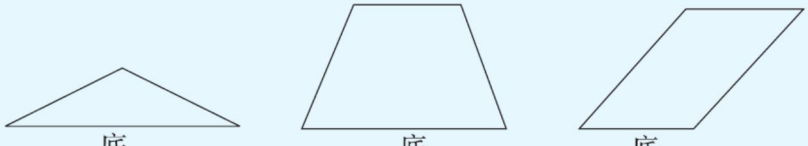

2. 填空。

(1)已知一个三角形的两个内角分别是55°和65°,则另外一个内角是(　　)°。

(2)等腰三角形的底角是35°,则它的顶角是(　　)°。

(3)直角三角形的一个锐角是72°,另一个锐角是(　　)°。

关注微信公众号“教辅资料站”获取更多学习资料

练习 12 多边形的内角和

用时：___分___秒 错误：　个

A组 常规口算题

711 +109 +89 =	182 −27 −41 −32 =	25 ×11 ×8 =
15 ×9 ×6 =	133 +280 +27 =	518 −(118 +99) =
6 ×47 ×5 =	309 +211 +191 =	66 ×5 ×4 =
1000 −550 −450 =	15 ×21 ×4 =	441 +123 +159 =
325 −(125 +90) =	344 −157 +56 =	106 ×45 =
67 ×19 +33 ×19 =	99 ×58 +58 =	432 −(69 +132) =
753 +109 +147 =	5600 −1820 −1180 =	112 ×31 −12 ×31 =
876 −(230 +276) =	450 ×4 ×5 =	125 ×21 ×4 =
178 +64 +22 +236 =	101 ×69 −69 =	956 +152 −456 =
12 ×29 ×5 =	25 ×77 ×4 =	53 ×25 ×4 =
339 −197 +161 =	154 ×39 −54 ×39 =	119 +221 +181 =
3785 −(785 +1200) =	5 ×177 ×2 =	700 −346 −254 =
295 −78 −122 =	568 +109 +232 =	15 ×41 ×6 =
979 −284 −216 =	25 ×99 ×2 =	188 −46 −54 =
88 ×40 +12 ×40 =	1953 −(422 +953) =	2 ×76 ×5 =

B组 变式口算题

算出下面各个未知角的度数。

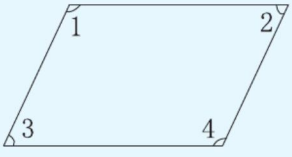

∠1 =115°　∠2 = (　　)

∠3 = (　　)　∠4 = (　　)

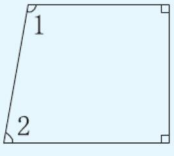

∠1 =100°　∠2 = (　　)

关注微信公众号“教辅资料站”获取更多学习资料

第七单元口算能力测试

用时：____分____秒　错误：　个

A组　常规口算题

124 ×4 =	67 ×200 =	550 ×80 =
246 ÷6 =	28 ÷4 =	136 ÷8 =
400 ×10 =	250 ×60 =	90 ×300 =
846 ÷2 =	217 ÷7 =	189 ÷7 =
18 ×80 =	190 ×50 =	809 ×5 =
78 ÷3 =	152 ÷4 =	368 ÷8 =
260 ×20 =	310 ×30 =	540 ×50 =
105 ÷5 =	49 ×6 =	88 ÷4 =
420 ×40 =	54 ÷2 =	20 ×200 =
17 ×40 =	210 ×60 =	244 ×3 =
95 ÷5 =	213 ÷3 =	301 ×80 =
10 ×450 =	26 ×30 =	642 ÷3 =
738 ÷9 =	48 ÷4 =	420 ×50 =
86 ×5 =	324 ×3 =	720 ÷6 =
664 ÷8 =	38 ÷2 =	59 ×9 =
720 ×60 =	14 ×60 =	344 ÷8 =

B组　变式口算题

1. 在方格纸中分别画出一个平行四边形和一个梯形，画出它们的高，并标出各部分的名称。



2. 已知一个三角形的两个内角分别是37°和53°，这是一个(　　)三角形。
3. 一个三角形的两个内角分别是25°和130°，这是一个(　　)三角形。
4. 四边形的内角和是(　　)°，五边形的内角和是(　　)°。

关注微信公众号“教辅资料站”获取更多学习资料

难易等级：

练习1 确定位置（一）

用时：___分___秒　错误：　个

A组 常规口算题

230 +340 =	59 ×20 =	35 +168 +65 =
6 ×130 =	129 ÷3 =	16 ×8 ×5 =
637 ÷7 =	786 +221 =	8 ×19 ×125 =
111 ×9 =	27 ×6 =	5 ×99 ×20 =
789 −451 =	122 ×5 =	255 +180 +45 =
23 ×30 =	360 ÷12 =	435 −(160 +135) =
67 ×200 =	123 −111 =	101 ×35 =
87 −69 =	568 ÷8 =	564 −248 −52 =
840 ÷20 =	41 ×60 =	50 ×39 ×4 =
340 ÷17 =	1000 ÷8 =	15 ×9 ×2 =
1900 +266 =	679 +221 =	7 ×45 ×4 =
120 ×50 =	700 ×12 =	769 −153 −147 =
840 ÷40 =	313 ×3 =	125 ×5 ×4 =
230 ×4 =	966 ÷6 =	125 ×37 +125 ×63 =
930 ÷30 =	450 ×40 =	800 −194 −206 =
986 +34 =	912 −121 =	25 ×99 +25 =

B组 变式口算题

第5行	△	△	△	△	△	△
第4行	△	△	△	△	△	△
第3行	△	△	△	△	△	△
第2行	△	△	△	△	△	△
第1行	△	△	△	△	△	△
	第1列	第2列	第3列	第4列	第5列	第6列

1. 在图中找出第3列第5行的位置，用圆圈圈起来，该位置用数对表示是(___，___)。

2. (6,4)表示图中第___列第___行的位置，(4,2)表示图中第___列第___行的位置。

关注微信公众号“教辅资料站”获取更多学习资料

练习2　确定位置（二）

用时：____分____秒　错误：　个

A组　常规口算题

671 +119 =	370 ÷74 =	685 −(260 +185) =
810 ÷30 =	1200 −570 =	125 ×(8 ×29) =
650 ×8 =	950 ×20 =	40 ×24 ×5 =
678 ÷6 =	34 ×5 =	66 +(134 +731) =
110 ÷5 =	75 ×40 =	720 −315 −85 =
812 −611 =	1100 ÷20 =	157 +120 −57 =
800 ×9 =	199 +652 =	25 ×45 +55 ×25 =
210 ÷35 =	20 ×15 =	(40 +2) ×25 =
422 +180 =	1200 ÷30 =	553 −69 −31 =
15 ×80 =	4 ×250 =	81 +81 ×99 =
360 ÷72 =	240 ÷12 =	156 −82 −18 =
580 ×3 =	400 −346 =	35 ×8 ×25 =
328 −177 =	6 ×340 =	748 −75 −148 −125 =
96 ×50 =	560 ÷4 =	33 ×24 +24 ×67 =
150 ÷2 =	78 +252 =	128 −64 +72 =
620 +860 =	30 ×21 =	1800 −672 −428 =

B组　变式口算题

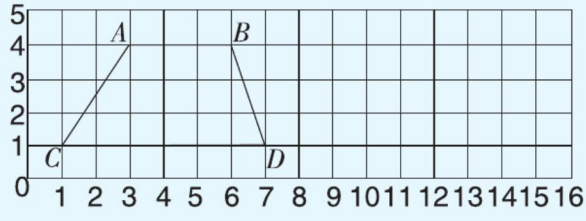

1. 用数对表示图中梯形的4个顶点A,B,C,D的位置。

A(____,____)　B(____,____)　C(____,____)　D(____,____)

2. 标出点$E(9,1)$,$F(13,1)$,$G(14,4)$,$H(10,4)$,并顺次连接E,F,G,H,E,围成的图形是_____。

关注微信公众号“教辅资料站”获取更多学习资料

第八单元口算能力测试

用时：____分____秒 错误：　个

A组 常规口算题

6×150=	699−455=	35×60×2=
450+160=	80×25=	25×(4+100)=
440÷20=	298+120=	860×5−260×5=
480+408=	704−550=	(125+80)×8=
313×3=	824÷4=	173×26+27×26=
700−375=	8×105=	351−(151+60)=
700÷35=	319−130=	84×99+84=
120+224=	60×710=	20×58×5=
640÷16=	720÷30=	435−88−112=
813−640=	301+287=	101×77=
145×4=	280×50=	67×9+67=
58×20=	168÷8=	608−322−108=
700−560=	6×450=	73×25×4=
840÷40=	519+409=	(8×36)×125=
185+315=	140×4=	975−(23+175)=
84×4=	2500÷20=	591−254−146−81=

B组 变式口算题

下面是小萌家所在街区的平面图，小萌家在A处，学校在B处。

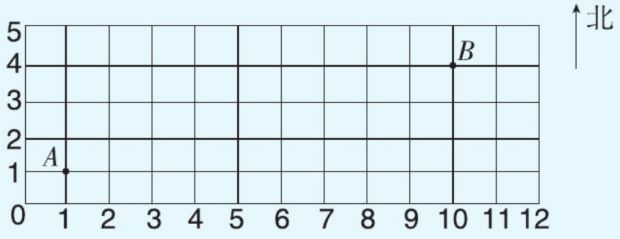

1. 用数对表示小萌家和学校的位置：A(____,____)，B(____,____)。
2. 小萌沿着“(1,1)→(2,1)→(3,1)→(3,2)→(3,3)→(3,4)→(4,4)→(5,4)→(6,4)→(7,4)→(8,4)→(9,4)→(10,4)”的路线去学校，请在图中画出她行走的路线。

关注微信公众号“教辅资料站”获取更多学习资料

第九单元 整理与复习

练习1 平移、旋转和轴对称

用时：____分____秒　错误：　个

A组 常规口算题

990 ÷11 =	100 ÷4 =	870 ÷30 =
240 ÷60 =	355 ÷5 =	123 ×3 =
490 ÷70 =	110 ÷5 =	20 ×42 =
900 ÷45 =	448 ÷8 =	620 ÷20 =
540 ÷90 =	700 ÷14 =	125 ×4 =
280 ÷14 =	810 ÷90 =	205 ×9 =
960 ÷24 =	300 ÷15 =	330 ÷30 =
130 ×6 =	880 ÷40 =	560 ÷80 =
225 ÷5 =	500 ÷50 =	724 ÷2 =
120 ÷5 =	784 ÷7 =	750 ×3 =
690 ÷30 =	211 ×4 =	144 ÷8 =
930 ÷31 =	980 ÷20 =	400 ÷80 =
960 ÷80 =	560 ÷40 =	52 ×4 =
750 ÷50 =	450 ×6 =	810 ÷30 =
960 ÷20 =	128 ×3 =	220 ÷5 =
606 ÷3 =	50 ×21 =	510 ÷17 =

B组 变式口算题

1. 画出图 A 的另一半，使它成为一个轴对称图形。（上下对称）

2. 画出图 B 向右平移 4 格，再向上平移 3 格后的图形。

3. 画出图 C 绕 O 点逆时针旋转 90°后的图形。

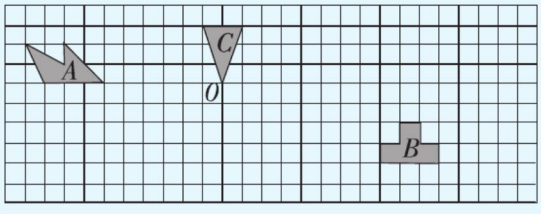

关注微信公众号“教辅资料站”获取更多学习资料

练习2 认识多位数

用时：___分___秒 错误：　个

A组 常规口算题

◆ 比较大小。

7543000 ◯ 7673000
405000 ◯ 503900
100000 ◯ 99999
202020 ◯ 2002000
869999 ◯ 8600000
96057000 ◯ 96507000
23576000 ◯ 23588000
8578000 ◯ 8599000
7770000 ◯ 7777010
54300000 ◯ 54200000
1110012110 ◯ 1200000
598万 ◯ 599000
9999万 ◯ 1亿
867900 ◯ 869700
24600000 ◯ 2460000

420000 =（　　）万
900000000 =（　　）亿
2200000000 =（　　）亿
30900000000 =（　　）亿
430000 =（　　）万
51000000000 =（　　）亿
6700000 =（　　）万
8600000000 =（　　）亿
400000 =（　　）万
30000000 =（　　）万
7800000000 =（　　）亿
4300000 =（　　）万
7500000000 =（　　）亿
19060000 =（　　）万
54900000 =（　　）万
9000000000 =（　　）亿

438000≈（　　）万
56789010≈（　　）万
732000700≈（　　）亿
120000500≈（　　）亿
32100098≈（　　）万
43001200≈（　　）万
3218067000≈（　　）亿
4600089≈（　　）万
65439009≈（　　）万
568900240000≈（　　）亿
7239800≈（　　）万
7780098≈（　　）万
628400≈（　　）万
3245000000≈（　　）亿
40960000000≈（　　）亿
3847000000≈（　　）亿

B组 变式口算题

1. 读出下面各数。

56709990438 读作：_____　438005007500 读作：_____

7800654321 读作：_____　654390088405 读作：_____

2. 写出下面各数。

七千零六十万写作：_____九百五十亿零三百万四千写作：_____

三百零六万零五十一写作：_____五千零四亿零三十万零七百写作：_____

关注微信公众号“教辅资料站”获取更多学习资料

练习3　三位数乘两位数

用时：____分____秒　错误：　个

A组　常规口算题

12 ×20 =	120 ×20 =	100 ×10 =
34 ×20 =	25 ×400 =	240 ×40 =
600 ×12 =	360 ×50 =	320 ×20 =
20 ×75 =	24 ×500 =	501 ×80 =
30 ×43 =	340 ×50 =	700 ×30 =
47 ×30 =	45 ×600 =	83 ×500 =
56 ×50 =	118 ×20 =	245 ×60 =
167 ×3 =	30 ×40 =	364 ×50 =
544 ×2 =	350 ×60 =	21 ×600 =
28 ×4 =	70 ×80 =	550 ×40 =
37 ×7 =	90 ×60 =	850 ×10 =
49 ×80 =	50 ×170 =	567 ×20 =
11 ×90 =	134 ×20 =	320 ×50 =
24 ×40 =	175 ×4 =	45 ×60 =
356 ×5 =	90 ×42 =	27 ×300 =
540 ×50 =	8 ×221 =	80 ×52 =

B组　变式口算题

1. 某家电商场上周卖出25台饮水机，已知每台饮水机售价340元，上周饮水机的销售金额为(　　)元。
2. 有一个长方形花圃，长125米，宽40米，那么它的面积为(　　)平方米。
3. 根据乘法竖式填写其中的未知数字。

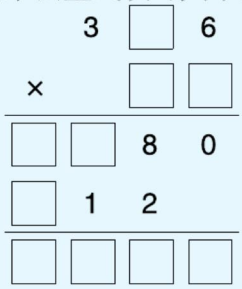

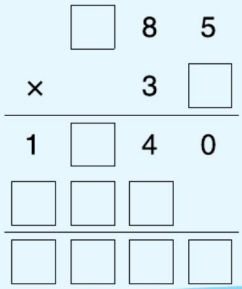

关注微信公众号“教辅资料站”获取更多学习资料

练习4 用计算器计算

用时：____分____秒 错误：　个

A组 常规口算题

30 ×21 =	4 ×251 =	134 ×20 =
62 ×50 =	52 ×60 =	864 ÷8 =
85 ×60 =	17 ×70 =	51 ×40 =
9 ×140 =	80 ×150 =	190 ÷5 =
71 ×70 =	24 ×30 =	204 ÷2 =
320 ×40 =	32 ×80 =	120 ÷5 =
64 ×80 =	56 ×40 =	54 ×30 =
81 ×900 =	81 ×90 =	405 ÷5 =
630 ×30 =	450 ×5 =	300 ÷60 =
124 ×5 =	147 ×3 =	640 ÷20 =
60 ×45 =	70 ×62 =	12 ×80 =
8 ×407 =	9 ×207 =	918 ÷9 =
50 ×220 =	720 ÷90 =	21 ×80 =
20 ×95 =	34 ×60 =	180 ×50 =
5 ×260 =	542 ÷2 =	89 ×20 =
7 ×210 =	230 ×20 =	4500 ÷20 =

B组 变式口算题

观察下面一组算式：

1 +9 +1 ×9 =19

2 +9 +2 ×9 =29

3 +9 +3 ×9 =39

……

140 +9 +140 ×9 =1409

141 +9 +141 ×9 =1419

请你根据左面算式的规律直接写出下面各题的结果。

375 +9 +375 ×9 = (　　)

276 +9 +276 ×9 = (　　)

1258 +9 +1258 ×9 = (　　)

4576 +9 +4576 ×9 = (　　)

关注微信公众号“教辅资料站”获取更多学习资料

练习5　解决问题的策略

用时：____分____秒　错误：　个

A组　常规口算题

500 ×60 =	567 +123 =	637 ÷91 =
770 ×10 =	960 ÷40 =	234 −200 =
260 ×20 =	840 ÷40 =	350 ×6 =
780 ×2 =	123 +321 =	720 ×8 =
427 ÷7 =	172 ×3 =	890 +110 =
366 ÷61 =	280 ÷14 =	96 ×40 =
750 +210 =	920 ÷20 =	450 ÷15 =
640 ×4 =	654 −354 =	240 ÷12 =
639 ÷9 =	570 ×40 =	910 ×70 =
720 ×5 =	567 ÷7 =	321 −201 =
288 −135 =	710 ×60 =	44 ×4 =
610 ×4 =	740 ÷37 =	350 ×5 =
230 +450 =	1000 −658 =	480 ÷16 =
73 ×40 =	486 ÷81 =	112 +99 =
300 ×50 =	86 ×20 =	68 ×3 =
50 ×48 =	96 +144 =	500 −47 =

B组　变式口算题

1. 四年级同学进行队列表演，共组成5个方队，每个方队排成6行6列，方队最外面一圈同学戴帽子，戴帽子的同学共有(　　)人。

2. 四(1)班和四(2)班的图书角共有图书120本，如果四(1)班拿出12本给四(2)班，两个班的图书就同样多，四(1)班原有图书(　　)本，四(2)班原有图书(　　)本。

3. 一个长方形，如果长增加5米，面积就增加25平方米，如果宽增加5米，面积就增加70平方米，原来长方形的面积是(　　)平方米。

关注微信公众号“教辅资料站”获取更多学习资料

练习6 运算律

用时：___分___秒 错误：　个

A组 常规口算题

38 +36 +64 =	146 +88 +54 +12 =	125 ×19 ×8 =
85 +15 +65 =	34 +38 +66 +22 =	78 ×101 −78 =
35 ×5 +65 ×5 =	1090 −440 −360 =	4 ×65 ×5 =
130 +27 −27 =	25 ×7 ×4 =	654 +76 −454 =
357 +670 +643 =	234 −23 −77 =	23 ×2 ×5 =
110 +22 +18 =	311 +89 −200 =	783 −(250 +183) =
450 ×11 −450 =	43 ×5 ×2 =	35 ×5 −15 ×5 =
321 ×20 ×5 =	89 −22 +11 =	39 ×9 +39 =
865 +11 −265 =	14 ×17 ×5 =	45 ×9 ×2 =
807 +40 +693 =	18 ×64 +82 ×64 =	76 ×5 ×2 =
32 ×4 ×25 =	25 ×16 =	34 ×20 ×5 =
75 +168 +32 =	58 +61 +39 =	500 ×23 ×4 =
126 ×15 −15 ×26 =	537 −(137 +99) =	816 −426 −174 =

B组 变式口算题

1. 写出下列算式运用的运算律。

(1)230 ×2 ×5 =230 ×(2 ×5)　(　　)

(2)54 +28 +46 =(54 +46) +28　(　　)

(3)(8 +2) ×2 =8 ×2 +2 ×2　(　　)

2. 用简便方法计算。

25 ×32 ×125　　99 ×34　　720 ÷48

关注微信公众号“教辅资料站”获取更多学习资料

练习7　三角形、平行四边形和梯形

用时：____分____秒　错误：　个

A组　常规口算题

480 ÷40 =	408 ÷4 =	125 ×6 ×8 =
960 ÷16 =	560 ×3 =	173 ×26 +27 ×26 =
49 ×30 =	110 ×50 =	500 ×81 +500 ×19 =
780 ÷60 =	273 ÷3 =	84 +84 ×99 =
280 ×40 =	480 ÷30 =	163 −43 −57 =
210 ×9 =	360 ×60 =	25 ×(4 +40) =
279 ÷9 =	860 ÷43 =	312 ×4 +4 ×188 =
380 ÷20 =	700 ÷50 =	53 ×203 +97 ×53 =
28 ×30 =	840 ÷30 =	20 ×58 ×5 =
147 ÷7 =	9 ×150 =	319 +(460 +281) =
700 ×80 =	680 ÷17 =	36 ×101 =
420 ÷14 =	840 ÷70 =	69 ×101 −69 =
1600 ÷40 =	84 ×40 =	4 ×8 ×25 =
390 ÷30 =	348 ÷2 =	660 −(160 +251) =
780 ÷20 =	520 ×80 =	356 −85 +44 =
320 ×30 =	730 ×3 =	9 ×77 +77 =

B组　变式口算题

1. 在方格纸上分别画出一个高是3厘米的三角形、平行四边形和梯形。



2. 若三角形的两个内角分别是60°和80°，则它是一个(　　)三角形。
3. 一个四边形的三个内角分别是90°、90°和75°，则它的另外一个内角的度数是(　　)。
4. 直角三角形中，一个锐角是35°，则另一个锐角的度数是(　　)。

关注微信公众号“教辅资料站”获取更多学习资料

练习8 确定位置

用时：___分___秒 错误：　个

A组 常规口算题

316 ÷4 =	510 ÷17 =	860 ×5 −260 ×5 =
8 ×210 =	720 ÷12 =	128 +39 +72 =
560 ÷20 =	108 ÷18 =	255 −(76 +155) =
19 ×50 =	300 ×15 =	28 ×5 ×4 =
760 ÷40 =	800 ÷50 =	66 ×33 +34 ×33 =
240 ÷60 =	770 ÷70 =	75 ×99 +75 =
420 ×30 =	600 ×16 =	100 ×101 −100 =
960 ÷12 =	920 ×30 =	552 −148 −52 =
420 ÷30 =	244 ÷4 =	25 ×24 =
330 ×7 =	690 ÷23 =	480 ×13 −480 ×3 =
108 ÷3 =	50 ×700 =	55 ×99 +55 =
70 ×61 =	56 ÷2 =	315 −(75 +15) =
990 ÷90 =	62 ÷2 =	660 −25 −135 =
960 ÷6 =	80 ×91 =	273 −95 +27 =
280 ÷40 =	400 ×40 =	5 ×168 ×2 =
375 ÷5 =	55 ×100 =	788 +43 −88 =

B组 变式口算题

下面是图书馆所在街区的平面图。



1. 用数对表示红星小学和超市的位置分别是(____,____),(____,____)。
2. (7,4)表示的位置是_____。
3. 小明放学后要去图书馆,他可以先向____走____格,再向____走____格。

关注微信公众号“教辅资料站”获取更多学习资料

口算能力期末综合测评（一）

用时：___分___秒　错误：　个

A组　常规口算题

◆ 读出下面各数。

1249734210　读作：_____

36223　读作：_____

34005600　读作：_____

34560000　读作：_____

20400600000　读作：_____

35000450　读作：_____

16745679　读作：_____

5403700008　读作：_____

20000700　读作：_____

5000080　读作：_____

352900000　读作：_____

8623653　读作：_____

65004000　读作：_____

86999990000　读作：_____

20202　读作：_____

289670　读作：_____

9605400　读作：_____

465040　读作：_____

22659000　读作：_____

360000　读作：_____

7008965009　读作：_____

500500005　读作：_____

410879650　读作：_____

◆ 写出下面各数。

八百　写作：_____

六十万　写作：_____

七十万　写作：_____

十二亿　写作：_____

四千零五十　写作：_____

四百三十万　写作：_____

三百零六亿　写作：_____

四千六百　写作：_____

四百六十万　写作：_____

二十五亿　写作：_____

七千零二十万　写作：_____

六百七十万八千　写作：_____

六十八万零三　写作：_____

三十九亿六千万　写作：_____

二百五十亿六千三百万　写作：_____

五千三百万　写作：_____

七千三百万　写作：_____

八亿九千零四十五万七千　写作：_____

七亿六千六百二十四万　写作：_____

三千一百万　写作：_____

二亿三千五百万零六　写作：_____

十亿零八百万　写作：_____

九千零九万三千二百　写作：_____

关注微信公众号“教辅资料站”获取更多学习资料

口算能力期末综合测评（二）

用时：___分___秒 错误：　个

A组 常规口算题

150 ×8 =	25 ×70 =	82 ×40 =
120 ×6 =	12 ×700 =	20 ×77 =
7 ×130 =	301 ×8 =	505 ×8 =
24 ×30 =	405 ×5 =	151 ×4 =
32 ×30 =	120 ×50 =	401 ×3 =
300 ×7 =	44 ×200 =	21 ×70 =
70 ×12 =	76 ×300 =	250 ×50 =
130 ×4 =	50 ×45 =	132 ×3 =
600 ×12 =	420 ×2 =	400 ×80 =
100 ×21 =	4 ×260 =	450 ×20 =
240 ×5 =	28 ×200 =	330 ×30 =
3 ×310 =	414 ×5 =	160 ×30 =
200 ×60 =	810 ×60 =	120 ×40 =
350 ×4 =	509 ×7 =	14 ×30 =
450 ×2 =	123 ×2 =	111 ×8 =
70 ×13 =	510 ×5 =	720 ×20 =
116 ×5 =	420 ×5 =	150 ×40 =
60 ×110 =	300 ×60 =	27 ×30 =
70 ×410 =	90 ×31 =	63 ×20 =
930 ×20 =	33 ×30 =	700 ×80 =
15 ×70 =	50 ×52 =	180 ×30 =
220 ×4 =	170 ×5 =	140 ×50 =
520 ×6 =	310 ×7 =	350 ×30 =
460 ×5 =	150 ×60 =	170 ×40 =

关注微信公众号“教辅资料站”获取更多学习资料

口算能力期末综合测评（三）

用时：___分___秒　错误：　个

A组　常规口算题

777 ÷7 =	282 ×20 =	650 ×11 −650 =
990 ×2 =	600 ÷4 =	782 −250 −182 =
600 ÷50 =	273 ×3 =	66 ×99 +66 =
540 ÷30 =	568 ÷8 =	4 ×43 ×5 =
85 ×30 =	960 ÷40 =	652 −(152 +35) =
326 ÷2 =	240 ÷5 =	78 ×87 +13 ×78 =
700 ÷14 =	186 ÷31 =	661 ×101 −661 =
615 ×4 =	604 ×6 =	25 ×16 =
568 ÷4 =	405 ÷5 =	75 ×4 ×5 =
260 ÷13 =	289 ÷17 =	121 ×2 ×5 =
702 ×7 =	750 ×20 =	189 −(89 +66) =
784 ÷2 =	630 ÷2 =	358 −69 +42 =
900 ÷30 =	19 ×50 =	37 ×101 =
812 ×4 =	256 ×2 =	2 ×159 ×5 =
462 ÷3 =	306 ÷6 =	433 +79 +67 =
169 ÷13 =	640 ÷16 =	512 ×13 −3 ×512 =
805 ÷5 =	125 ×8 =	369 ×5 ×2 =
45 ×30 =	108 ÷36 =	194 −(24 +94) =
506 ×7 =	23 ×40 =	205 ×101 −205 ×1 =
846 ÷3 =	714 ÷7 =	8 ×43 ×125 =
650 ÷50 =	55 ×40 =	177 ×9 +177 =
728 ÷8 =	981 ÷9 =	125 ×9 +125 ×71 =
162 ×4 =	85 ×20 =	515 −(65 +42) =
680 ÷40 =	304 ×3 =	33 ×18 −33 ×8 =

关注微信公众号“教辅资料站”获取更多学习资料

口算能力期末综合测评（四）

用时：___分___秒 错误：　个

A组 常规口算题

16 ×30 =	480 ÷24 =	1880 −541 −659 =
520 ÷26 =	750 −235 =	48 ×4 ×5 =
856 −713 =	130 ×30 =	1020 −440 −560 =
910 ÷70 =	242 ×20 =	256 −(43 +156) =
225 ×4 =	660 ÷20 =	719 +34 +81 =
420 ÷30 =	59 ×20 =	103 ×40 −3 ×40 =
36 ×30 =	860 ÷43 =	100 ×99 +100 =
387 −305 =	155 ÷31 =	114 −86 −14 =
49 ×50 =	217 −152 =	6 ×28 ×5 =
512 +88 =	129 ×2 =	1156 −460 −540 =
360 ÷20 =	700 ×9 =	113 ×50 −63 ×50 =
660 ÷11 =	675 −330 =	180 ×99 +180 =
220 ×7 =	511 +78 =	349 +129 +51 =
809 −300 =	315 ÷15 =	4 ×7 ×25 =
456 +144 =	900 −630 =	425 −(66 +125) =
960 ÷32 =	280 +76 =	450 −182 −118 =
174 ÷6 =	80 ×70 =	584 −79 −221 =
25 ×18 =	148 ÷2 =	20 ×125 ×50 =
154 −136 =	316 +104 =	11 ×80 ×5 =
710 ÷71 =	18 ×60 =	138 +209 +162 =
124 +392 =	125 ×4 =	500 ×16 ×2 =
120 ×6 =	750 ×20 =	79 ×2 ×50 =
152 ÷2 =	109 ×8 =	66 ×15 −16 ×15 =
390 ÷13 =	450 ÷3 =	189 −(89 +15) =

关注微信公众号“教辅资料站”获取更多学习资料

参考答案

第一单元 练习1（第1页）

A组

15	31	30
960	5	11
4	3	90
60	11	23
10	420	840
4	24	70
24	30	20
850	6	20
59	40	27
15	400	216
33	23	8
49	428	100
10	7	5
20	20	51
5	11	8
20	30	20

B组

1. 下 5
2. 左 6
3. 右 5

练习2（第2页）

A组

169	9	12
80	4	15
19	7	20
20	20	200
6	6	5600
130	20	1000
5	4	71
4	9	22
12	51	840
30	400	112
0	720	450
2	110	20
220	34	70
16	14	50
14	10	8
9	30	40

B组

1. 90
2. 逆
3. 180

练习3（第3页）

A组

50	105	9
20	90	13
288	20	84
8	5	16
105	16	31
20	16	484
100	50	30
22	3000	90
20	90	80
844	29	40
112	369	20
49	70	362
20	9	18
37	2	8
30	60	4
15	208	848

B组

略

第一单元口算能力测试（第4页）

A组

27	40	20
10	25	40
44	92	20
7	800	3
2	4	2500
15	50	55
17	45	27
12	30	5
11	16	480
50	6	80
7	1680	72
11	60	60
1560	12	12
30	20	636
10	65	17
560	28	23

B组

1. 90
2. 略
3. 略

第二单元 练习1（第5页）

A组

16	22	12
9	211	270
369	72	179
9	266	22
3	30	500
297	7	260
14	197	17
3	23	775
292	945	310
16	20	518
422	112	11
20	414	720
797	21	20
12	914	13
2	26	858
797	703	579

请沿此虚线裁剪下使用

关注微信公众号“教辅资料站”获取更多学习资料

B 组

1. (1)一百一十万
一百一十二万
(2)七百九十万
八百二十万
2. (1)一万　一百万
(2)10　一千万

练习 2（第 6 页）

A 组

四万二千三百
七万零四百九十
六千零七万五千八百
二千三百万五千零九十
六万
十万零四
五十四万八千
六百二十五万
一百零七万
二百万五千
七百零八万零一
二十五万三千四百
七百零五万零五百零五
六万二千三百七十
五万零五
七十八万二千零五十
4603000
8000000
64520000
450370
100004
203000
1000400
203200
780020
12000005
70300000
550500
623802
10305
7200000
65020

B 组

1. 6　2　7　8　2　8
2. 9080000
3. 400006
4. 99999999　100000

练习 3（第 7 页）

A 组

一千万
六万零五百
七百零二万五千
七十万零四
一千七百二十五万
三百一十二万八千
七百零五万
二千五百万零五十
一万零八百
三千二百万五千
七千八百万
一千零四万五千零五十
六千零三十七万零三十七
二千五百一十万
一千三百万零九十
七百二十五万零五百
150200
73000000
6050050
70001
2805000
32000
155000
4030050
11250000
6300000
80050000
400040
2385001
85000000
100500
3523000

B 组

1. 3 个十万　　7 个百
2 个百万　　9 个万
2. 1000

练习 4（第 8 页）

A 组

203	1120	120
11	800	7
400	8	1002
720	570	12
3	41	4
410	180	575
1050	256	47
110	19	200
6	288	280
539	160	107
108	16	552
16	92	41
570	8	501
5600	660	12
13	20	210
706	900	155

B 组

1. 208　二百零八亿
2. 3200　三千二百亿
3. 13　十三亿
4. 千位　千万位
5. 千万位　十亿位
6. 十　7. 千亿

练习 5（第 9 页）

A 组

三亿
二千八百五十万
七百二十亿八千五百万五千

请沿此虚线裁剪下使用

关注微信公众号“教辅资料站”获取更多学习资料

一千二百亿
一亿二千八百七十三万
六亿零八百万
一百零五亿一千零五十万一千零五十
三亿七千二百五十万
十三亿零五
六百五十二亿
一百零三亿三千二百万
七百零七亿
七亿零七万零七
一亿二千三百四十五万六千
三亿二千五百万零五百
七十八亿
1300000000
100070000
328000000
25000000000
100200000000
120053000
600005000
7000500000
68200000000
12350000000
1000000000
23002000000
70300000080
320000000000
5070000000
1000000800

B 组

1. (1)708　5300
(2)130056000000
(3)8008000000
2. 

练习 6（第 10 页）

A 组

十三亿七千万
三百八十亿
十亿
六十五亿二千五百万
五百四十亿
一亿零八百万
三亿零八万
四亿三千二百一十万
三亿零五十
五亿一千二百零五万零五百
十三亿三千万五千
六亿七千八百万零八十
三亿二千五百万
九亿九千九百九十万零九
七百亿
四十九亿
15000000000
7200003000
138000000
71500000000
650050000
300050000
700005300
340000000000
40270080000
670000050
132500000000
5230000000
890000080
78250000000
328000000000
1000000500

B 组

1. 654332100
2. 100233456
3. 103604253　(答案不唯一)
4. 103064253　(答案不唯一)

练习 7（第 11 页）

A 组

160 万	1 亿	<
3226 万	6 亿	<
1500 万	10 亿	>
900 万	210 亿	<
1834 万	541 亿	>
1050 万	110 亿	<
708 万	70 亿	>
2120 万	900 亿	<
9000 万	710 亿	>
58 万	82 亿	<
4275 万	254 亿	>
1230 万	108 亿	>
600 万	641 亿	<
5050 万	8120 亿	<

B 组

1. 亿　百亿
2. 1000000000　999999999
3. >　=　>
<　<　<

练习 8（第 12 页）

A 组

<	4 万	9 亿
>	73 万	6 亿
<	26 万	45 亿
<	15 万	188 亿
<	80 万	8 亿
<	32 万	864 亿
<	186 万	109 亿
>	360 万	43 亿
>	351 万	12 亿
<	500 万	1 亿
<	4001 万	247 亿
>	9084 万	5 亿
	1235 万	7 亿
	610 万	6 亿

B 组

1. 384400000　38440　4

请沿此虚线裁剪下使用

关注微信公众号“教辅资料站”获取更多学习资料

2. 84999　75000

3. 5～9　5～9　0～4　0～4

练习 9（第 13 页）

A 组

<	160	36
>	7280	430
>	809	36
>	21	17
<	8	460
>	96	30
>	405	1
<	1360	57
>	2005	57
>	39	755
>	236	64
<	650	1119
	736	9
	508	51
	380	10

B 组

1.（1）89000 > 78090 > 56000 > 32000

（2）45000000 > 4500000 > 4050000 > 4005000

2. 7　9　3

9　6　4

第二单元口算能力测试

（第 14 页）

A 组

1638400

354000000

30056000

1200000000

8003000004

70004000030

180005000

10060004800

503000409000

20068008

9990000

100000000500

4300300005

206005000

287317

二十四亿零六百七十八万

四十二亿零八十九万

十亿零一千

三千二百四十万零五百六十

八亿零八十四万五千六百

三十一万零五百六十八

七十九亿八千五百万六千二百三十一

五十五亿四千二百一十万八千零二十三

六十一亿八千万

九千三百五十万四千七百六十五

二千万三千五百四十六

八十五亿六千二百七十九万零一十二

一百五十八万九千二百四十

八千四百五十六万零七十二

七十四亿零五万一千

B 组

1. >　=　<　<

2. 30　57　65　140

第三单元　练习 1（第 15 页）

A 组

64	450	1230
1416	3450	90
192	1800	1818
180	330	440
570	510	1340
450	500	3220
800	2640	8080
2032	6300	2150
660	1440	720
390	3600	4880
1800	240	1200
3300	1320	1560
728	1840	192
1200	1000	1330
1260	4200	1080
8100	1015	990

B 组

163 × 26 = 978 + 3260 = 4238	226 × 14 = 904 + 2260 = 3164	123 × 48 = 984 + 4920 = 5904

练习 2（第 16 页）

A 组

660	2040	84
150	2884	650
1230	600	1060
480	121	169
1320	1890	420
2100	720	175
252	960	1260
1240	2340	960
3180	780	1600
1610	1684	640
125	1100	651
126	3280	2520
2350	84	600
780	1000	550
729	4080	369
3120	450	860

B 组

1. 26　1200　32　1400

2.（1）105　（2）900　（3）8

练习 3（第 17 页）

A 组

186	1980	408
456	504	4320
600	1300	726

请沿此虚线裁剪下使用

关注微信公众号“教辅资料站”获取更多学习资料

660 520 3960
1080 880 700
484 1648 760
1600 1550 1500
910 5400 729
960 2300 4060
840 324 1440
3500 276 3528
492 690 6150
2020 3600 280
246 3200 2640
1450 2040 2800
1800 621 1260

B组

1. 400千米
150米/分
9小时
7200米
2. (1)75千米/时
(2)150千米/时
(3)7500

练习4（第18页）

A组

112 690 2460
1200 680 2480
2168 510 1060
1820 420 620
4949 30250 940
6300 189 1890
440 2480 570
1450 729 3400
600 1640 16240
1500 1250 1750
808 1400 4280
950 3570 1050
1680 8400 7850

800 800 1470
920 770 32080

B组

1.
$$\begin{array}{r} 423 \\ \times\ 22 \\ \hline 846 \\ 846 \\ \hline 9306 \end{array} \qquad \begin{array}{r} 587 \\ \times\ 94 \\ \hline 2348 \\ 5283 \\ \hline 55178 \end{array}$$

$$\begin{array}{r} 608 \\ \times\ 43 \\ \hline 1824 \\ 2432 \\ \hline 26144 \end{array}$$

2. 3450 3. 1680

练习5（第19页）

A组

170 256 4320
980 440 54000
399 1640 264
800 15000 2084
810 3680 700
2420 5688 2640
1080 7290 600
870 2600 1900
7000 16000 36000
90 228 243
300 1400 1500
15200 2568 18180
316 3690 2240
9090 1626 352
750 1780 380
6480 384 910

B组

1. 28560 285600 28560
5712 57120 285600
2. 360
3. 15000
4. 60 120 1200

练习6（第20页）

A组

3216 1980 21700
5700 6800 1950

2200 147 260
2480 3750 36000
12500 2800 6000
4200 18000 3120
81000 5200 8200
10000 12600 8800
1500 21000 12180
15400 64000 6000
16160 4100 14500
6270 36000 3240
15400 14700 42000
6600 4180 40800
6800 21090 6400
72900 25000 14700

B组

1. = > < <
2. 34000 17100 11100
28000

练习7（第21页）

A组

4200 8000 16200
16400 900 7700
10000 21000 2500
7600 9600 36000
48000 14700 9000
10000 20000 5400
1980 644 63000
1200 1550 6600
15400 26000 64000
29700 7800 8800
5000 1810 964
29000 28000 12000
5700 10350 28000
18360 5600 9900
32800 5010 18000
14400 9210 17600

B组

1. 8000 2. 能 3. 2050
4. 15000 5. 4800

请沿此虚线裁剪下使用

关注微信公众号“教辅资料站”获取更多学习资料

第三单元口算能力测试

（第 22 页）

A 组

210	880	9300
4960	4900	45000
14400	14400	960
920	6600	6300
6800	9800	2800
1000	1200	1872
4680	680	3200
8800	9600	35000
135	1080	2240
800	276	231
4160	294	5490
9600	460	384
1900	2940	3030
16200	1220	12600

B 组

1. 480

2.
$$\begin{array}{r} 156 \\ \times\ 39 \\ \hline 1404 \\ 468 \\ \hline 6084 \end{array} \qquad \begin{array}{r} 158 \\ \times\ 16 \\ \hline 948 \\ 158 \\ \hline 2528 \end{array}$$

第四单元 练习 1（第 23 页）

A 组

5500	21300	10000
16800	141	10000
580	488	440
2615	360	4400
624	924	1060
658	340	216
1000	1000	600
384	328	1540
564	720	6400
180	790	485
1470	168	990
8800	844	1050
470	1900	372
3666	1490	2400
456	5040	4100
7290	464	870

B 组

1. 不够　2. 7000　3. 2000

练习 2（第 24 页）

A 组

8400	1290	150
9600	5400	18090
5500	395	3200
30000	1264	6400
2730	2800	24000
7200	14000	28160
37800	6600	1320
10000	750	417
204	296	19500
9600	30400	909
9000	1600	18000
1960	595	402
10200	30120	968
960	3850	496
2300	13600	2226
6600	1660	522

B 组

1. 456456　369369　642642　783783

2. 1089　110889　11108889　1111088889　111110888889

$1\underbrace{\cdots\cdots}_{19个1}108\underbrace{\cdots\cdots}_{19个8}89$

第四单元口算能力测试

（第 25 页）

A 组

1776	960	3030
3500	15000	10800
616	13200	2370
10200	4600	42000
11400	54	1200
3800	920	1770
728	6400	14700
840	12900	3663
750	1088	2000
9800	9000	1860
1400	1320	11200
8240	1455	300
3296	2970	15000
544	2168	3780
4970	4860	1026
522	18090	57600

B 组

9876　12345

123456　6

1234567　7

12345678　8

第五单元 练习 1（第 26 页）

A 组

48000	1640	101
6500	106	600
130	4	14
175	14000	810
23	255	7200
40	82	920
590	890	3050
15030	19	148
100	411	49000
11000	16	600
64	21000	2000
4620	51	342
2	1100	9200
25000	44	112
2800	99	18
14	5	354

B 组

1. $(192-12)\div2=90$
$90+12=102$

2. $(185+15)\div2=100$
$100-15=85$

练习 2（第 27 页）

A 组

16800　3　116

请沿此虚线裁剪下使用

关注微信公众号“教辅资料站”获取更多学习资料

50 8160 13
52 532 92
20 8 118
139 510 1248
8 20 42700
18 444 1314
6900 1220 1440
112 20 6420
72 90 909
49 13 43
6300 7140 419
3 311 4860
1138 8080 646
12480 20 320
1770 600 18

B组

画图略 40 120 40
4800

练习3（第28页）

A组

130 93 18000
704 23 17000
6420 10 583
920 1070 21
800 60 450
20 250 30
7500 300 990
133 18 390
20 700 5400
8000 9200 500
198 600 8800
16 19 169
158 2050 210
30 705 860
101 9300 406
99 19 140

B组

1.2 4
2.20 10
3.400

第五单元口算能力测试

（第29页）

A组

14 720 23
900 410 41
40 52 20000
625 250 5400
422 30 13
51 600 790
11 19 360
8000 170 15
101 0 2050
870 696 670
690 91 20400
490 610 400
8400 7000 31
20 260 357
900 410 12
4200 30 4500

B组

1.6
2.5 16 80

第六单元 练习1（第30页）

A组

103 510 190
260 165 190
784 17 152
368 1340 152
723 90 140
179 58 140
169 930 810
235 170 810
1250 350 518
128 509 518
235 140 1040
65 689 1040
58 542 1143
934 323 1143
166 525 1032
460 48 1032

B组

1.77 22 78 240
2.82 161 200 241
161 240 279 320
200 279 318 359
241 320 359 400

练习2（第31页）

A组

137 380 267
233 144 1100
826 270 600
176 832 811
189 126 561
1210 180 610
14 121 1220
257 236 690
107 120 400
1080 40 900
505 868 360
787 712 739
242 1221 545
431 114 490
27 520 864
1260 63 711

B组

1.c b 570 30 154 71
236 164 181 319
2.略

练习3（第32页）

A组

196 200 250
200 305 656
342 33 719
400 381 289
228 756 43
555 221 700
102 200 55

请沿此虚线裁剪下使用

关注微信公众号“教辅资料站”获取更多学习资料

277 140 169
140 130 242
692 240 434
300 900 596
124 100 300
1120 288 935
153 532 190
1102 255 252
59 929 644

B 组

1. 略 2. 110 525

练习 4（第 33 页）

A 组

280 10200 3000
412 153 1100
369 8040 1400
4100 105 2400
6060 560 310
7200 490 1600
3900 25250 1800
1920 18900 7300
2135 3050 8100
1760 2595 3240
7520 49070 540
692 16000 1560
4250 5400 630
1960 21700 4320
37800 628 810
942 7200 660

B 组

1. a 4 25 b 342 8
125 21

2. 略

练习 5（第 34 页）

A 组

9900 1263 2550
900 5060 2550
1480 64000 180
24030 2200 180
840 6300 400
2610 160000 400
5400 20250 2200
480 999 2200
400 3900 2000
2590 12200 2000
1840 8080 950
9800 2340 950
640 32000 900
2940 3246 900
18120 10200 1632
896 3680 1632

B 组

1. 38 25 23 27 7 73
10 42 58 68

2. (1)√ (2)×

练习 6（第 35 页）

A 组

85 3800 8500
36090 3240 1100
1800 3300 2200
880 2763 4500
1266 8800 6200
3066 8800 1500
2440 2800 7300
459 12080 8888
9500 7878 6000
9600 2400 1480
5680 6400 1600
108 625 3200
730 15300 3300
5800 252 7700
18210 2400 2200
492 6270 6400

B 组

1. √
2. √
3. □
4. □
5. √

练习 7（第 36 页）

A 组

240 888 1840
939 42060 180
4300 1650 19000
2490 1720 300
930 847 2600
8400 1250 9900
5100 48000 7000
2550 560 720
6600 6120 630
5400 567 520
168 9600 13800
32400 1060 4343
909 570 700
660 468 300
1500 776 520
8500 9680 6666

B 组

1. 略 2. 略

练习 8（第 37 页）

A 组

9600 6620 7800
4206 720 272
10500 360 26500
4230 570 100000
20000 365 876
848 1206 770
12600 420 20
7300 9200 900
210 498 1080
10300 900 980
1800 1060 631
3550 7700 220
728 580 11900

请沿此虚线裁剪下使用

关注微信公众号“教辅资料站”获取更多学习资料

1700	6400	240
2400	510	3000
414	132	110

B组

1. 770　2. 136　3. 130

练习9（第38页）

A组

276	888	15000
560	856	1200
840	2560	3600
300	36000	650
840	960	69
230	2100	1320
400	6500	550
1260	412	10300
900	315	270
406	1020	1000
710	640	4600
1660	6000	434
288	32040	470
936	408	156
180	3550	4600
1200	2520	510

B组

1. 100　2. 150　3. 50

练习10（第39页）

A组

1200	3550	9000
2460	6900	26500
810	438	1200
242	848	125
770	455	1200
110	500	2600
1080	1260	700
62	699	12500
3248	416	1500
312	320	1890
340	1563	73
815	1600	800
132	420	1050
2520	30300	540
840	1300	20100
1730	990	4000

B组

1. 略　2. 550

第六单元口算能力测试

（第40页）

A组

359	274	15
6800	6300	535
2550	24	2200
512	9700	50
142	9600	6100
27000	425	722
225	10	4000
215	400	11000
3000	10	0
190	8787	145
600	30	300
270	240	10
19	468	1132
642	1620	25
2000	17	4896
850	854	1800

B组

1. 149　2. 2400　3. 1500

第七单元　练习1（第41页）

A组

2576	108	6700
5600	700	316
747	5600	192
540	23000	4500
324	580	237
8400	560	12900
6600	816	7200
1036	2150	1270
4800	7600	9000
680	210	1568
1380	3400	1200
14400	554	18900
26400	1329	16200
1540	16720	35700
3540	2880	512
3090	3240	5640

B组

1. 略　2. 略

练习2（第42页）

A组

32800	224	980
1728	200	890
1089	48000	1600
5200	276	12600
492	1030	7800
868	4600	1110
297	1950	32000
14000	847	25500
3180	16800	13200
980	450	6440
620	10500	1800
5760	414	2828
1126	5600	24000
5680	740	5481
3520	1060	13600
496	1700	4160

B组

√　√　×　×

练习3（第43页）

A组

870	6900	1365
1550	375	167
1350	4214	142
640	650	2525
35050	5200	60

请沿此虚线裁剪下使用

关注微信公众号“教辅资料站”获取更多学习资料

184 2800 540
469 4050 5400
6000 210 140
12000 1302 740
123 1020 159
144 4900 130
350 7227 67000
2900 1700 200
2680 10180 7600
920 1230 4300
1560 3550 400

B组

58 28 45

练习4（第44页）

A组

66 9600 2100
6780 360 51
32000 1300 8600
1200 102 220
42070 36900 60500
12000 6400 7800
1050 655 9900
2800 924 5200
28800 780 1100
9000 4240 4500
540 234 390
7200 3750 400
42700 1530 8500
728 2320 325
1250 726 10500
6200 5100 4800

B组

1. 78 2. 180° 3. 略

练习5（第45页）

A组

203 2560 760
11 19 5520
7200 445 41
400 160 120
30 80 29200
1050 20 138
126 1440 176
6 7 25
1080 263 20
16 81 17
290 12 242
5600 4 52
130 450 980
11200 47 36
255 28 680
41 890 490

B组

1. 略 2. 略

练习6（第46页）

A组

20 510 410
580 4 7
43 490 1900
1560 17000 160
23 14 800
23 203 47
60 1170 102
380 90 1680
123 6800 24
24 1980 790
960 30 1260
4 920 20
2520 32 21
140 1920 2880
1260 2 39
250 1150 7200

B组

略

练习7（第47页）

A组

30 277 480
1920 20 12
1500 1880 160
1000 17 600
14 353 2170
720 30 150
6390 520 40
12 15 4800
1440 32 262
110 670 24
480 1440 53
103 1050 163
11500 990 960
34 16 540
570 81 210
4920 60 500

B组

1. (1)80° (2)60°
(3)80°
2. 30°

练习8（第48页）

A组

8520 165 600
24 7200 0
6000 36 300
690 7800 3800
18900 648 7373
760 20 188
260 8000 303
1120 18300 300
1600 23 2600
51 60 680
560 154 15100
21600 174 143
6370 3200 175
49 1359 3468
92 14 580
151 600 1300

B组

1. 略 2. 略

请沿此虚线裁剪下使用

关注微信公众号“教辅资料站”获取更多学习资料

练习 9（第 49 页）

A 组

1616	15	600
910	30	850
410	846	342
18	440	3600
15	26	189
14000	1986	2300
5400	575	2700
224	192	240
1960	4600	5600
60	710	6767
13	603	740
380	2070	159
75	10200	680
840	470	32
490	3360	17000
8400	15	890

B 组

1. 略　2. 略

练习 10（第 50 页）

A 组

295	290	200
870	633	19000
531	46	110
31	2250	8383
1350	761	5600
826	230	400
9	65	1900
32	642	1530
93	42140	8500
35050	130	6700
1840	5200	420
746	592	108
6000	2800	310
41	401	1300
12	49	770
185	1302	680

B 组

1. (1) × (2) √ (3) × (4) √ (5) √

2. 略

练习 11（第 51 页）

A 组

2828	1700	4300
6700	632	350
1200	5500	4000
7500	3800	795
297	3900	6300
320	2600	7000
600	2800	29000
362	1120	960
1000	531	15000
2000	6100	78000
10200	1100	480
238	2856	6100
10600	520	1500
4200	7200	100000
478	4500	542
216	50	1280

B 组

1. 略

2. (1)60　(2)110　(3)18

练习 12（第 52 页）

A 组

909	82	2200
810	440	301
1410	711	1320
0	1260	723
110	243	4770
1900	5800	231
1009	2600	3100
370	9000	10500
500	6900	652
1740	7700	5300
303	3900	521
1800	1770	100
95	909	3690
479	4950	88
4000	578	760

B 组

65°　65°　115°　80°

第七单元口算能力测试

（第 53 页）

A 组

496	13400	44000
41	7	17
4000	15000	27000
423	31	27
1440	9500	4045
26	38	46
5200	9300	27000
21	294	22
16800	27	4000
680	12600	732
19	71	24080
4500	780	214
82	12	21000
430	972	120
83	19	531
43200	840	43

B 组

1. 略

2. 直角

3. 钝角

4. 360　540

第八单元　练习 1（第 54 页）

A 组

570	1180	268
780	43	640
91	1007	19000
999	162	9900
338	610	480
690	30	140
13400	12	3535
18	71	264
42	2460	7800

请沿此虚线裁剪下使用

关注微信公众号“教辅资料站”获取更多学习资料

20	125	270
2166	900	1260
6000	8400	469
21	939	2500
920	161	12500
31	18000	400
1020	791	2500

B 组

1. 3　5　圈略

2. 6　4　4　2

练习 2（第 55 页）

A 组

790	5	240
27	630	29000
5200	19000	4800
113	170	931
22	3000	320
201	55	220
7200	851	2500
6	300	1050
602	40	453
1200	1000	8100
5	20	56
1740	54	7000
151	2040	400
4800	140	2400
75	330	136
1480	630	700

B 组

1. 3　4
　6　4
　1　1
　7　1

2. 略

第八单元口算能力测试

（第 56 页）

A 组

900	244	4200
610	2000	2600
22	418	3000
888	154	1640
939	206	5200
325	840	140
20	189	8400
344	42600	5800
40	24	235
173	588	7777
580	14000	670
1160	21	178
140	2700	7300
21	928	36000
500	560	777
336	125	110

B 组

1. 1　1　10　4

2. 略

第九单元　练习 1（第 57 页）

A 组

90	25	29
4	71	369
7	22	840
20	56	31
6	50	500
20	9	1845
40	20	11
780	22	7
45	10	362
24	112	2250
23	844	18
30	49	5
12	14	208
15	2700	27
48	384	44
202	1050	30

B 组

1. 略　2. 略　3. 略

练习 2（第 58 页）

A 组

	42	44
<	9	5679
<	22	7
>	309	1
<	43	3210
<	510	4300
<	670	32
<	86	460
<	40	6544
<	3000	5689
>	78	724
>	430	778
>	75	63
<	1906	32
<	5490	410
>	90	38

B 组

1. 五百六十七亿零九百九十九万零四百三十八
　四千三百八十亿零五百万七千五百
　七十八亿零六十五万四千三百二十一
　六千五百四十三亿九千零八万八千四百零五

2. 70600000
　95003004000
　3060051
　500400300700

练习 3（第 59 页）

A 组

240	2400	1000
680	10000	9600
7200	18000	6400
1500	12000	40080
1290	17000	21000
1410	27000	41500

请沿此虚线裁剪下使用

关注微信公众号“教辅资料站”获取更多学习资料

2800	2360	14700
501	1200	18200
1088	21000	12600
112	5600	22000
259	5400	8500
3920	8500	11340
990	2680	16000
960	700	2700
1780	3780	8100
27000	1768	4160

B组

1. 8500　2. 5000　3. 略

练习4（第60页）

A组

630	1004	2680
3100	3120	108
5100	1190	2040
1260	12000	38
4970	720	102
12800	2560	24
5120	2240	1620
72900	7290	81
18900	2250	5
620	441	32
2700	4340	960
3256	1863	102
11000	8	1680
1900	2040	9000
1300	271	1780
1470	4600	225

B组

3759
2769
12589
45769

练习5（第61页）

A组

30000	690	7
7700	24	34
5200	21	2100
1560	444	5760
61	516	1000
6	20	3840
960	46	30
2560	300	20
71	22800	63700
3600	81	120
153	42600	176
2440	20	1750
680	342	30
2920	6	211
15000	1720	204
2400	240	453

B组

1. 100　2. 72　48
3. 70

练习6（第62页）

A组

138	300	19000
165	160	7800
500	290	1300
130	700	276
1670	134	230
150	200	350
4500	430	100
32100	78	390
611	1190	810
1540	6400	760
3200	400	3400
275	158	46000
1500	301	216

B组

1. 略　2. 略

练习7（第63页）

A组

12	102	6000
60	1680	5200
1470	5500	50000
13	91	8400
11200	16	63
1890	21600	1100
31	20	2000
19	14	15900
840	28	5800
21	1350	1060
56000	40	3636
30	12	6900
40	3360	800
13	174	249
39	41600	315
9600	2190	770

B组

1. 略　2. 锐角　3. 105°
4. 55°

练习8（第64页）

A组

79	30	3000
1680	60	239
28	6	24
950	4500	560
19	16	3300
4	11	7500
12600	9600	10000
80	27600	352
14	61	600
2310	30	4800
36	35000	5500
4270	28	225
11	31	500
160	7280	205
7	16000	1680
75	5500	743

B组

1. 3　2　9　1
2. 少年宫
3. 北　1　东　2（答案不唯一）

口算能力期末综合测评（一）

（第65页）

十二亿四千九百七十三万四千二百一十

请沿此虚线裁剪下使用

关注微信公众号“教辅资料站”获取更多学习资料

三万六千二百二十三
三千四百万五千六百
三千四百五十六万
二百零四亿零六十万
三千五百万零四百五十
一千六百七十四万五千六百七十九
五十四亿零三百七十万零八
二千万零七百
五百万零八十
三亿五千二百九十万
八百六十二万三千六百五十三
六千五百万四千
八百六十九亿九千九百九十九万
二万零二百零二
二十八万九千六百七十
九百六十万五千四百
四十六万五千零四十
二千二百六十五万九千
三十六万
七十亿零八百九十六万五千零九
五亿零五十万零五
四亿一千零八十七万九千六百五十
800
600000
700000
1200000000
4050
4300000
30600000000
4600
4600000
2500000000
70200000
6708000
680003
3960000000
25063000000
53000000
73000000
890457000
766240000
31000000
235000006
1008000000
90093200

口算能力期末综合测评(二)

(第 66 页)

1200	1750	3280
720	8400	1540
910	2408	4040
720	2025	604
960	6000	1203
2100	8800	1470
840	22800	12500
520	2250	396
7200	840	32000
2100	1040	9000
1200	5600	9900
930	2070	4800
12000	48600	4800
1400	3563	420
900	246	888
910	2550	14400
580	2100	6000
6600	18000	810
28700	2790	1260
18600	990	56000
1050	2600	5400
880	850	7000
3120	2170	10500
2300	9000	6800

口算能力期末综合测评(三)

(第 67 页)

111	5640	6500
1980	150	350
12	819	6600
18	71	860
2550	24	465
163	48	7800
50	6	66100
2460	3624	400
142	81	1500
20	17	1210
4914	15000	34
392	315	331
30	950	3737
3248	512	1590
154	51	579
13	40	5120
161	1000	3690
1350	3	76
3542	920	20500
282	102	43000
13	2200	1770
91	109	10000
648	1700	408
17	912	330

口算能力期末综合测评(四)

(第 68 页)

480	20	680
20	515	960
143	3900	20
13	4840	57
900	33	834
14	1180	4000
1080	20	10000
82	5	14
2450	65	840
600	258	156
18	6300	2500
60	345	18000
1540	589	529
509	21	700
600	270	234
30	356	150
29	5600	284
450	74	125000
18	420	4400
10	1080	509
516	500	16000
720	15000	7900
76	872	750
30	150	85

请沿此虚线裁剪下使用

关注微信公众号“教辅资料站”获取更多学习资料



口算脑算用心算
巧算速算不难算

荣德基官方网站:
http://www.rudder.com.cn

荣德基天猫旗舰店:
http://rongdeji.tmall.com

荣德基小学频道
获取最新教育资讯

荣德基教育APP
让教和学变得简单

ISBN 978-7-5336-8997-1
9 787533 689971
定价:21.90元

荣德基 星级口算天天练 四年级数学 下

关注微信公众号“教辅资料站”获取更多学习资料