荣德基小学系列

荣德基 主编



星级口算天天练

四年级 数学 下

教辅资料站

电子教辅 试卷练习
知识总结 备课资源

扫码关注获取更多学习资料

时代出版传媒股份有限公司
安徽教育出版社

常规好题题题好 变式妙题道道妙

荣德基小学系列

星级口算天天练

四年级 数学 下

主 编：荣德基　　本册主编：杜雪飞



学 校：.....

班 级：.....

姓 名：.....

喜欢的格言：.....

ARTTIME 时代出版
时代出版传媒股份有限公司
安徽教育出版社

关注微信公众号“教辅资料站”获取更多学习资料

目录

CONTENTS



第一单元　四则混合运算

练习1　四则混合运算（一）…… 1
练习2　习题课 …… 2
练习3　四则混合运算（二）…… 3
第一单元口算能力测试 …… 4



第二单元　乘除法的关系和乘法运算律

练习1　乘除法的关系 …… 5
练习2　乘法交换律和结合律 …… 6
练习3　利用乘法交换律和结合律进行简便计算 …… 7
练习4　习题课 …… 8
练习5　乘法分配律 …… 9
练习6　习题课 …… 10
练习7　问题解决（一）…… 11
练习8　问题解决（二）…… 12
练习9　问题解决（三）…… 13
练习10　整理与复习 …… 14
第二单元口算能力测试…… 15

第三单元　确定位置

练习1　确定位置（一）…… 16
练习2　确定位置（二）…… 17
练习3　确定位置（三）…… 18
第三单元口算能力测试…… 19



微信公众号
教辅资料站

关注微信公众号“教辅资料站”获取更多学习资料



第四单元　三角形

练习1　认识三角形（一）…… 20
练习2　认识三角形（二）…… 21
练习3　认识三角形（三）…… 22
练习4　三角形的分类（一）…… 23
练习5　三角形的分类（二）…… 24
练习6　整理与复习…… 25
第四单元口算能力测试…… 26



第五单元　小　数

练习1　小数的意义（一）…… 27
练习2　小数的意义（二）…… 28
练习3　小数的意义（三）…… 29
练习4　小数的性质…… 30
练习5　小数的大小比较…… 31
练习6　习题课…… 32
练习7　小数点位置移动引起小数大小的变化 33
练习8　习题课…… 34
练习9　单位换算（一）…… 35
练习10　单位换算（二）…… 36
练习11　小数的近似数（一）…… 37
练习12　小数的近似数（二）…… 38
练习13　习题课…… 39
第五单元口算能力测试…… 40

第六单元　平行四边形和梯形

练习1　平行四边形…… 41
练习2　梯　形…… 42
练习3　探索规律（一）…… 43
练习4　探索规律（二）…… 44
第六单元口算能力测试…… 45



微信公众号 教辅资料站

关注微信公众号“教辅资料站”获取更多学习资料

第七单元　小数的加法和减法

练习1　小数加法和减法 …… 46
练习2　小数加法的简便计算 …… 47
练习3　习题课 …… 48
练习4　问题解决 …… 49
练习5　习题课 …… 50
第七单元口算能力测试 …… 51





第八单元　平均数

练习1　平均数（一） …… 52
练习2　平均数（二） …… 53
练习3　复式统计表 …… 54
练习4　复式条形统计图 …… 55
第八单元口算能力测试 …… 56

第九单元　总复习

练习1　小　数 …… 57
练习2　四则运算和运算律（一） …… 58
练习3　四则运算和运算律（二） …… 59
练习4　四则运算和运算律（三） …… 60
练习5　图形的认识（一） …… 61
练习6　图形的认识（二） …… 62
练习7　图形的认识（三） …… 63
练习8　平均数 …… 64
口算能力期末综合测评（一） …… 65
口算能力期末综合测评（二） …… 66
参考答案 …… 67

微信公众号
教辅资料站

关注微信公众号“教辅资料站”获取更多学习资料

第一单元 四则混合运算

难易等级：

练习1 四则混合运算（一）

用时：____分____秒　错误：　个

A组 常规口算题

400 ÷80 =	844 ÷4 =	480 +160 ÷40 =
40 ×140 =	540 −245 =	(32 +43) ÷3 =
311 ×4 =	202 ×50 =	900 −(390 +210) =
265 ÷5 =	3900 ÷130 =	99 ×0 ÷3 =
750 −680 =	156 ÷4 =	350 ÷25 +45 =
60 ×320 =	6500 −1900 =	(341 −288) ×4 =
425 +67 =	512 ×5 =	150 ×3 −80 =
300 ×40 =	700 ÷50 =	(812 −12) ÷20 =
93 −77 =	440 +86 =	22 ×(500 ÷25) =
612 ÷3 =	33 ×11 =	(75 +315) ÷39 =
90 ×13 =	980 ÷14 =	900 ÷(120 −90) =
340 ×20 =	200 ÷8 =	220 ÷5 ×90 =
360 ÷30 =	233 ×3 =	(450 −200) ÷5 ×8 =
5000 −2289 =	216 ÷72 =	160 ÷20 ×8 =
654 ×40 =	152 ÷4 =	432 +(155 −99) =
852 ÷6 =	628 −188 =	40 ×(366 ÷6) =

B组 变式口算题

1. 判断下面式子的计算结果是否正确，并将错误的改正过来。

600 +400 ÷25 −40　改正：

=1000 ÷25 −40

=40 −40

=0(　　)

51 ×(1600 ÷40 −20)　改正：

=51 ×(1600 ÷20)

=51 ×8

=408(　　)

2. 在每组中得数大的算式后面画“√”。

(1)90 −38 ×2(　　)　(2)50 +16 +80 ÷4(　　)　(3)(600 −432) ÷6 ×9(　　)

(90 −38) ×2(　　)　50 +(16 +80) ÷4(　　)　600 −432 ÷(6 ×9)(　　)

关注微信公众号“教辅资料站”获取更多学习资料

练习2 习题课

用时：___分___秒 错误：　个

A组 常规口算题

100 −64 =	712 ×2 =	67 −120 ÷2 =
840 ÷7 =	500 +122 =	25 ×400 +200 =
51 ×700 =	7000 ÷35 =	360 ÷(120 −90) =
215 +85 =	502 ×80 =	(114 −88) ×20 =
440 ÷40 =	30 ×31 =	176 −(109 −79) =
24 ×5 =	100 −49 =	60 ×4 −50 =
161 −45 =	600 ÷5 =	2100 −(700 +800) =
380 ×20 =	780 ÷20 =	(220 −196) ×30 =
400 ×90 =	816 −51 =	(798 +22) ÷4 =
346 +37 =	102 ×50 =	38 ÷19 ×2 =
240 ÷5 =	750 ×40 =	(313 −153) ×10 =
108 ×6 =	840 ÷6 =	540 ÷(30 ×3) =
376 +154 =	164 ÷4 =	760 ÷(38 ÷2) =
612 ×9 =	800 −444 =	280 +(971 −355) =
58 ×60 =	164 ÷41 =	258 +360 ÷60 =
568 ÷4 =	210 ×20 =	9000 −(3478 +1222) =

B组 变式口算题

1. 火眼金睛判对错。(对的请打“√”,错的请打“×”。)

(1)计算 35 ÷7 +38 ×12 时,可以同时计算 35 ÷7 和 38 ×12。(　　)

(2)5 ×(120 −80) ÷40 =600 −2 =598。(　　)

(3)25 ×4 ÷25 ×4 =100 ÷100 =1。(　　)

2. 计算下面各题。

190 −32 ×5 +47　　356 −96 ÷(46 −38)　　450 ÷(150 +50 ×6)

微信公众号 教辅资料站

关注微信公众号“教辅资料站”获取更多学习资料

练习3　四则混合运算（二）

用时：____分____秒　错误：　个

A组　常规口算题

816 ÷4 =	1008 +643 =	125 ×80 +600 =
84 +364 =	80 ×14 =	(530 −505) ×40 =
315 ×2 =	660 ÷20 =	900 −(185 +275) =
88 ×400 =	650 −243 =	580 ÷(238 −180) =
8800 ÷400 =	209 ×20 =	(9876 −9876) ×765 =
535 ÷5 =	104 ×70 =	(70 −46) ×(180 ÷90) =
48 ×50 =	700 ÷35 =	(127 +273) ÷80 =
642 ÷6 =	972 −300 =	(26 +46) ÷(12 ×2) =
364 +280 =	364 ÷4 =	400 +77 ÷11 =
604 ×8 =	57 +743 =	720 ÷9 ×8 =
405 −88 =	520 ÷13 =	84 ÷(840 ÷40) =
531 ÷3 =	440 ÷20 =	40 +30 ×700 =
60 ×510 =	186 ÷6 =	560 ÷7 −11 ×6 =
79 +865 =	44 ×30 =	124 −360 ÷6 =
420 −245 =	145 ×5 =	20 ×[42 ÷(3 +11)] =
468 ÷6 =	785 +560 =	(253 −133) ÷(56 +4) =

B组　变式口算题

按照顺序计算，并填写下面的□，然后列出综合算式。

1.

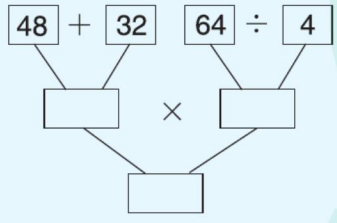

2.

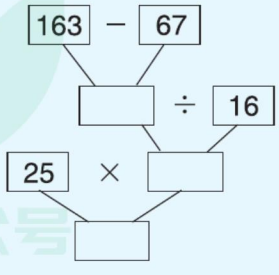

微信公众号
教辅资料站
关注微信公众号“教辅资料站”获取更多学习资料

第一单元口算能力测试

用时：___分___秒 错误：　个

A组 常规口算题

480 ÷20 =	7000 ÷140 =	200 ×6 ÷4 =
102 +388 =	80 ×15 =	160 ×40 −3800 =
62 ×9 =	610 −340 =	26 ×4 −125 ÷5 =
312 −250 =	538 +44 =	(15 +85 ×0) ÷15 =
6500 ÷50 =	186 ÷62 =	285 −15 +20 =
386 −51 =	25 ×8 =	60 +600 ÷10 =
600 ÷15 =	980 ÷14 =	4800 ÷24 −77 =
145 ×6 =	34 ×500 =	38 +25 ×4 ×47 =
152 −147 =	360 ÷18 =	(287 −199) ÷8 =
1300 ÷65 =	400 −235 =	(520 +480) ÷50 =
50 ×68 =	398 +142 =	125 ×8 ÷20 =
615 −415 =	62 ×30 =	168 ÷3 −56 =
129 −87 =	456 ÷3 =	(240 +180) ÷60 =
287 +278 =	82 ×700 =	180 ÷(480 ÷80) =
435 ×20 =	6170 −4200 =	(219 +431) ×30 =
915 ÷5 =	520 ÷13 =	(12 +28) ×(32 −12) =

B组 变式口算题

1. 在◯里填上适当的运算符号，使等号两边相等。

(1)5 ◯ 5 ◯ 5 ◯ 5 =0　　(2)5 ◯ 5 ◯ 5 ◯ 5 =1

(3)5 ◯ 5 ◯ 5 ◯ 5 =2　　(4)5 ◯ 5 ◯ 5 ◯ 5 =10

2. 小强和小明用电脑同时共同打一份文件，小强每分钟打 120 个字，小明每分钟打 100 个字，经过 20 分钟后还剩 600 个字，已经打了(　　)个字，这份文件共有(　　)个字。

微信公众号 教辅资料站

关注微信公众号“教辅资料站”获取更多学习资料

第二单元 乘除法的关系和乘法运算律

练习1 乘除法的关系

用时：___分___秒　错误：　个

A组 常规口算题

200 ×50 =	428 ×2 =	123 +（　　）=248
400 ÷2 =	8000 ÷400 =	（　　）÷3 =9……1
4 ×232 =	32 ×600 =	（　　）÷36 =20
900 ÷20 =	7200 ÷90 =	（　　）+800 =1000
40 ×162 =	410 ×80 =	8600 ÷（　　）=200
480 ÷30 =	690 −170 =	（　　）×30 =1200
6 ×340 =	360 ÷6 =	（　　）÷50 =50
52 ×400 =	430 ×3 =	27 ×（　　）=540
602 ×3 =	620 ×20 =	（　　）÷29 =10……20
720 ÷18 =	4500 ÷50 =	888 −（　　）=243
690 ÷23 =	70 ÷35 =	（　　）×20 =800
563 +29 =	7 ×113 =	760 −（　　）=240
144 ×5 =	294 ÷3 =	（　　）÷130 =30
168 ÷42 =	570 ÷19 =	（　　）+551 =699
281 ×3 =	300 ×24 =	（　　）×42 =840
369 ÷3 =	4800 ÷160 =	62 ÷（　　）=2

B组 变式口算题

填表。

因数	241	150	420	
因数	20		30	70
积		7500		6300

被除数	400	1200		380
除数	40		4	19
商		15	35	

微信公众号 教辅资料站

关注微信公众号“教辅资料站”获取更多学习资料

练习2 乘法交换律和结合律

用时：___分___秒 错误：　个

A组 常规口算题

56 ×5 =	340 ×30 =	25 ×4 ×8 =
206 ×2 =	9 ×17 =	125 ×8 ×3 =
123 ×3 =	402 ×20 =	40 ×7 ×5 =
410 ×10 =	35 ×3 =	30 ×4 ×5 =
60 ×101 =	5 ×112 =	31 ×2 ×5 =
90 ×80 =	245 ×2 =	16 ×5 ×7 =
130 ×30 =	505 ×50 =	6 ×15 ×81 =
48 ×40 =	90 ×210 =	25 ×8 ×9 =
7 ×305 =	61 ×50 =	2 ×55 ×4 =
80 ×22 =	519 ×5 =	9 ×10 ×90 =
940 ×8 =	701 ×70 =	8 ×125 ×63 =
173 ×4 =	80 ×200 =	36 ×5 ×3 =
50 ×85 =	900 ×6 =	4 ×15 ×22 =
245 ×8 =	70 ×310 =	15 ×6 ×7 =
420 ×90 =	157 ×4 =	20 ×5 ×17 =
314 ×3 =	60 ×120 =	18 ×5 ×9 =

B组 变式口算题

1. 根据乘法交换律和结合律将下列式子补充完整。

$a \times 67 = 67 \times$ □　　$4 \times 59 \times 25 = 59 \times ($ □ $\times$ □ $)$

$342 \times$ □ $= b \times$ □　　$125 \times ($ □ $\times 21) = ($ □ $\times 8) \times$ □

2. 连线（将上下两行得数相等的算式用线连起来）。

53 ×15 ×2　　（15 ×50）×4　　99 ×125 ×8　　4 ×（25 ×14）

99 ×（125 ×8）　　53 ×（15 ×2）　　15 ×（50 ×4）　　（4 ×25）×14

关注微信公众号“教辅资料站”获取更多学习资料

练习3　利用乘法交换律和结合律进行简便计算

用时：____分____秒　错误：　个

A组　常规口算题

420 ×30 =	217 ×3 =	125 ×7 ×8 =
73 ×4 =	180 +240 =	60 ×12 ×5 =
210 ×5 =	8 ×109 =	50 ×(4 ×7) =
4 ×104 =	432 ×2 =	38 ×4 ×25 =
521 ×30 =	606 ×50 =	50 ×26 ×8 =
412 ×4 =	45 ×200 =	8 ×25 ×125 ×4 =
63 ×20 =	619 +278 =	34 ×4 ×25 =
32 ×500 =	403 ×3 =	5 ×(63 ×2) =
50 ×300 =	67 ×20 =	5 ×17 ×4 =
370 ×60 =	330 ×6 =	8 ×(25 ×15) =
600 ×41 =	119 ×20 =	25 ×11 ×8 =
909 ÷9 =	150 ×40 =	50 ×25 ×4 =
92 ×5 =	929 −182 =	40 ×2 ×45 =
260 ×60 =	30 ×70 =	4 ×98 ×25 =
125 ×4 =	2 ×121 =	43 ×50 ×4 =
20 ×5 =	610 ×7 =	96 ×2 ×5 =

B组　变式口算题

1. 把左右两边结果相等的算式用线连起来。

125 ×32	4 ×25 ×12	36 ×125	(25 ×4) ×37
48 ×25	7 ×(a ×5)	25 ×37 ×4	4 ×25 ×7
15 ×24	125 ×8 ×4	5 ×42 ×2	125 ×36
7 ×(5 ×a)	24 ×15	28 ×25	5 ×2 ×42

2. 春季运动会上，某学校举行了跳绳比赛，有16个班的学生参加，每个班分成5个小组参赛，每个小组有4人，一共有(　　)人参加了跳绳比赛。

关注微信公众号“教辅资料站”获取更多学习资料

练习4 习题课

用时：___分___秒 错误：　个

A组 常规口算题

12 ×20 =	7 ×121 =	26 ×25 ×8 =
513 ×3 =	25 ×500 =	45 ×(5 ×2) =
215 ×20 =	80 ×600 =	8 ×(125 ×13) =
83 ×300 =	40 ×14 =	4 ×43 ×25 =
3 ×281 =	204 ×30 =	5 ×(6 ×11) =
176 ×3 =	810 ×9 =	(13 ×2) ×5 =
510 ×5 =	240 ×40 =	35 ×20 ×5 =
660 ×7 =	43 ×50 =	6 ×18 ×15 =
900 ×60 =	572 ×2 =	9 ×6 ×50 =
4 ×810 =	117 ×4 =	4 ×8 ×50 =
134 ×4 =	121 ×80 =	(250 ×9) ×4 =
25 ×600 =	701 ×6 =	24 ×25 =
500 ×17 =	300 ×35 =	64 ×125 =
222 ×4 =	423 ×2 =	(13 ×4) ×5 =
60 ×701 =	40 ×500 =	(25 ×80) ×4 =
520 ×4 =	130 ×5 =	(56 ×4) ×50 =

B组 变式口算题

1. 在◯里填上“ >”“ <”或“ =”。

4 ×15 ×25 ◯ 83 ×5 ×2　　36 ×8 ×125 ◯ 100 ×18 ×20

8 ×25 ×12 ◯ 25 ×(4 ×36)　　163 +573 +37 ◯ 286 +314 +107

2. 同学们坐车去参加夏令营活动，每辆车坐 25 人，用 7 辆车送了 4 次恰好把所有同学都送走，参加夏令营的同学一共有(　　)人。

3. 贝贝家到学校的距离为 840 m，他每天上学往返一次(中午在学校吃午饭)，他一星期(按 5 天计算)上学共需走(　　) m。

微信公众号 教辅资料站

关注微信公众号“教辅资料站”获取更多学习资料

练习5　乘法分配律

用时：____分____秒　错误：　个

A组　常规口算题

330 ×30 =	421 ×3 =	(100 +2) ×25 =
45 ×20 =	506 ×10 =	100 ×25 +25 ×2 =
74 ×20 =	80 ×800 =	15 ×(4 +8) =
801 ×30 =	55 ×40 =	15 ×4 +15 ×8 =
70 ×12 =	210 ×30 =	75 ×4 +25 ×4 =
522 ×5 =	2000 ×80 =	(75 +25) ×4 =
60 ×90 =	405 ×50 =	(40 +4) ×50 =
96 ×5 =	9 ×111 =	40 ×50 +4 ×50 =
25 ×16 =	60 ×65 =	85 ×20 +15 ×20 =
70 ×37 =	510 ×2 =	(85 +15) ×20 =
80 ×23 =	202 ×40 =	25 ×(30 +8) =
140 ×70 =	39 ×60 =	25 ×30 +25 ×8 =
128 ×5 =	400 ×80 =	21 ×9 +79 ×9 =
42 ×70 =	541 ×6 =	(21 +79) ×9 =
60 ×302 =	20 ×510 =	102 ×16 =
8 ×112 =	92 ×40 =	100 ×16 +2 ×16 =

B组　变式口算题

1. 根据乘法分配律在□里填上合适的数。

(38 +25) ×4 = □ ×4 + □ ×4　　15 ×23 +27 ×15 = (□ + □) ×15

(73 + □) ×10 = □ ×10 +7 × □　　68 ×42 +68 ×58 = (□ + □) × □

2. 根据乘法分配律判断下列算式是否正确。

(1)101 ×76 =100 ×76 +76 (　　)

(2)12 ×8 ×8 ×13 =(12 +13) ×8(　　)

关注微信公众号“教辅资料站”获取更多学习资料

练习6 习题课

用时：___分___秒 错误：　个

A组 常规口算题

17 ×5 =	190 ×20 =	85 ×99 +85 =
401 ×90 =	6 ×540 =	50 ×12 ×8 =
360 ×5 =	55 ×60 =	100 ×22 +4 ×22 =
44 ×20 =	307 ×9 =	48 ×45 +45 ×52 =
3 ×422 =	80 ×110 =	100 ×62 −62 =
6 ×511 =	22 ×400 =	(4 +8) ×125 =
305 ×8 =	35 ×80 =	2 ×7 ×25 =
51 ×9 =	604 ×20 =	88 ×100 +88 =
950 ×10 =	6 ×212 =	(40 +8) ×125 =
480 ×20 =	200 ×12 =	(125 +60) ×8 =
710 ×8 =	400 ×16 =	78 ×16 +22 ×16 =
27 ×4 =	128 ×5 =	2 ×29 ×50 =
365 ×2 =	510 ×30 =	90 ×50 ×2 =
290 ×20 =	36 ×7 =	4 ×125 ×9 =
607 ×30 =	48 ×50 =	18 ×45 ×2 =
164 ×3 =	209 ×30 =	164 ×32 +32 ×36 =

B组 变式口算题

1. 填一填。

103 ×85 = (　　) ×85 + (　　) ×85

98 ×36 = (　　) ×36 − (　　) ×36

29 +29 ×99 = (　　) × (　　)

(　　) ×47 −5 ×47 = 100 ×47

101 ×63 = (　　) × (　　) + (　　) × (　　)

2. 师徒两人加工晶体管，师傅每小时加工125个，徒弟每小时加工95个，他们每天工作8小时，两人一天一共加工(　　)个晶体管。

关注微信公众号“教辅资料站”获取更多学习资料

练习7　问题解决（一）

用时：____分____秒　错误：　个

A组　常规口算题

200 ×80 =	420 ×50 =	125 ×3 ×8 =
960 ÷80 =	334 ×3 =	(43 +25) ×4 =
994 ÷7 =	187 ÷17 =	50 ×(7 ×2) =
106 ×40 =	110 −49 =	16 ×125 +125 ×84 =
320 ÷20 =	300 ÷15 =	(720 +90) ÷(20 +70) =
311 ×7 =	220 ×60 =	200 +13 +603 ÷3 =
640 −125 =	399 +120 =	2 ×63 ×15 =
5 ×127 =	413 ×2 =	36 ÷4 +120 ×5 =
75 ×500 =	185 ÷5 =	8 ×(25 +125) =
40 ×180 =	280 ÷14 =	25 ×(4 ×3) =
8 ×500 =	20 ×59 =	(25 +8) ×40 −700 =
540 ×30 =	702 ×7 =	850 ÷5 −7 =
164 ÷4 =	720 ÷40 =	7 ×(450 −50) =
360 ÷30 =	276 ÷3 =	14 ×9 ×5 =
216 ×2 =	555 +245 =	(250 −170) ÷40 =
79 +166 =	990 ÷90 =	45 ×2 +450 ÷9 =

B组　变式口算题

1. 小丽家与车站相距1800 m，她以每分钟50 m的速度从家走向车站去接小兰，与此同时，小兰以每分钟40 m的速度从车站向小丽家走去，(　　)分钟后两人相遇。
2. *A*、*B*两地相距360 km，甲、乙两车同时分别从这两地相向开出，甲车每小时行驶38 km，乙车每小时行驶32 km，经过4小时后，两车还相距(　　)km。
3. 有两列火车，甲车上午8:00从*A*地开往*B*地，乙车中午12:00从*A*地开往*B*地，已知甲车每小时行驶125 km，乙车每小时行驶145 km，乙车(　　)小时能追上甲车。

教辅资料站

关注微信公众号“教辅资料站”获取更多学习资料

练习8 问题解决（二）

用时：___分___秒 错误：　个

A组 常规口算题

334 ×2 =	720 ÷36 =	(5 ×26) ×20 =
113 ×60 =	216 ÷3 =	301 ×(150 ÷50) =
840 ÷60 =	160 +290 =	205 ×4 +95 ×4 =
120 ÷15 =	480 ×20 =	92 +92 ×99 =
601 ×70 =	640 ÷80 =	260 ÷13 ÷2 =
500 ×24 =	26 ×5 =	(8 +80) ×125 =
808 +95 =	780 ÷20 =	80 ÷(240 ÷60) =
525 ×2 =	412 ×9 =	480 ÷80 +400 =
560 ÷14 =	580 ÷20 =	60 ×(18 +2) ÷2 =
181 +369 =	832 −172 =	78 +630 ÷(28 −19) =
40 ×760 =	160 ×40 =	65 ×35 −35 ×35 =
920 ÷40 =	131 ×5 =	40 ×(505 ÷5) =
271 ×5 =	792 −118 =	78 ×(100 +1) =
600 ×18 =	43 ×90 =	25 ×(4 +50) =
620 ×7 =	200 ÷40 =	273 −600 ÷60 =
750 ÷30 =	600 ÷50 =	(420 −20) ÷(39 +41) =

B组 变式口算题

1. 小丁和小胖合作用电脑打一篇3900字的文章。小丁每分钟能打70个字，小胖每分钟能打60个字，照这样计算，小丁和小胖共用(　　)分钟可完成这项工作。
2. 师徒两人共同加工一批零件，师傅每小时加工88个，徒弟每小时加工72个，两人工作了4小时后，还有115个没有加工。这批零件一共有(　　)个。
3. 甲、乙两个修路队合修一条长915 m的路，甲队每天修85 m，乙队每天比甲队多修13 m，(　　)天才能把这条路修完。

关注微信公众号“教辅资料站”获取更多学习资料

练习9　问题解决（三）

用时：____分____秒　错误：　个

A组　常规口算题

400 ÷20 =	77 ×200 =	300 ×33 −900 =
196 +24 =	866 −125 =	(8 +122) ×50 =
142 ×4 =	909 ÷9 =	400 ×2 +700 =
840 ÷40 =	700 ÷20 =	95 ×46 +5 ×46 =
964 −277 =	4 ×702 =	319 +287 +281 =
600 ×50 =	86 ×40 =	(120 −30 ×2) ÷4 =
640 ÷80 =	670 ×5 =	86 +114 −121 =
540 ÷9 =	900 ×13 =	63 ×15 ×2 =
450 ×20 =	150 ÷30 =	27 ×(100 +1) =
307 ×2 =	660 ÷60 =	125 ×15 ×8 ×4 =
7 ×215 =	421 ×50 =	244 ×56 −56 ×144 =
5 ×310 =	127 ×4 =	630 ÷(89 −80) =
272 ×4 =	720 ÷30 =	(3 ×8) ×125 =
200 ×42 =	70 ×800 =	(210 +90) ÷50 =
186 ÷31 =	360 ×6 =	(25 +19) × 4 =
280 ×30 =	2 ×241 =	900 ÷30 ×40 =

B组　变式口算题

1. 小强和小明同时从各自家里出发，相向而行，小强每分钟走 60 m，小明每分钟走 70 m，经过 5 分钟后两人相遇，他们两家相距(　　)m。

2. 小娟看一本总页数为 188 页的故事书，前 4 天平均每天看 17 页，剩下的 6 天看完，平均每天看(　　)页。

3. 王红和李婷去书店买书，王红带了 52 元，李婷带了 96 元，她们各买了两套同样的书，她们带的钱加在一起正好够用，那么王红应还李婷(　　)元。

关注微信公众号“教辅资料站”获取更多学习资料

练习10 整理与复习

用时：___分___秒 错误：　个

A组 常规口算题

312 ×2 =	123 ×8 =	800 ×(20 ÷4) =
909 ÷3 =	480 ÷24 =	96 +480 ÷60 =
108 ×3 =	210 ÷30 =	40 ×90 ÷60 =
2 ×750 =	396 ÷3 =	56 ×4 ×25 =
60 ×600 =	102 ×60 =	88 ×145 +55 ×88 =
640 ÷20 =	30 ×710 =	760 −180 ÷30 =
40 ×620 =	100 ÷2 =	150 ×6 +60 =
363 ÷3 =	380 ×50 =	(125 +20) ×8 =
414 ×4 =	6 ×901 =	43 +43 ×39 =
215 ×20 =	800 ÷40 =	125 ×16 ×8 =
560 ÷80 =	300 ÷15 =	(125 −25) ÷50 =
18 ×50 =	121 ×6 =	67 ×2 ×50 =
801 ×7 =	816 −206 =	(200 +4) ×25 =
120 ÷24 =	740 ÷37 =	259 +141 −133 =
26 ×300 =	314 ×5 =	17 ×16 ×5 =
400 ×80 =	240 ÷30 =	120 ÷20 +210 ÷70 =

B组 变式口算题

火眼金睛。(对的打“√”,错的打“×”)

1. 45 ×(2 +7) =45 ×2 +7(　　)

2. (25 ×125) ×4 =25 ×4 +125 ×4(　　)

3. 46 ×92 +7 ×46 +46 =46 ×(92 +7 +1)(　　)

4. 99 ×99 +99 =99 ×(99 +1)(　　)

5. 62 ×99 =62 ×100 −1(　　)

微信公众号 教辅资料站

关注微信公众号“教辅资料站”获取更多学习资料

第二单元口算能力测试

用时：____分____秒　错误：　个

A组 常规口算题

500 ÷50 =	32 ×400 =	24 ×7 +24 ×3 =
46 ×7 =	546 ÷91 =	4 ×8 ×25 =
600 ×80 =	200 ×27 =	200 ÷2 −90 =
320 ×40 =	803 ×90 =	5 ×12 ×2 =
651 ×2 =	400 ÷50 =	44 ×25 =
35 ×4 =	161 ×20 =	40 ×400 −6000 =
340 ÷20 =	690 ÷3 =	17 ×22 −12 ×17 =
270 ×20 =	43 ×4 =	(6 +8) ×125 =
50 ×400 =	20 ×340 =	(622 +258) ÷11 =
291 ×6 =	639 ÷71 =	8 ×4 ×125 =
325 ÷5 =	194 +548 =	125 ×5 +125 ×3 =
620 ×7 =	63 ×7 =	6000 ÷3000 ÷2 =
270 ×30 =	666 −343 =	102 ×35 =
145 ×6 =	420 ÷30 =	(270 +30) ÷(450 ÷30) =
480 ÷24 =	701 ×50 =	45 ×99 +45 =
200 ×70 =	432 +234 =	12 ×7 +2 ×12 +12 =

B组 变式口算题

1. 把符合要求的算式的序号填在括号里。

①27 ×9 =9 ×27　　③94 ×99 +94 =94 ×100

②104 ×18 =100 ×18 +4 ×18　　④13 ×5 ×8 =13 ×(5 ×8)

应用乘法交换律的算式有(　　)；

应用乘法结合律的算式有(　　)；

应用乘法分配律的算式有(　　)。

2. 花生猴每分钟能在电脑上打 55 个字，如果它连续打字 16 分钟，一共能打(　　)个字。

微信公众号 教辅资料站

关注微信公众号“教辅资料站”获取更多学习资料

难易等级：

练习1 确定位置（一）

用时：____分____秒　错误：　个

A组 常规口算题

108 ×3 =	510 ÷17 =	64 ×300 =
110 ×30 =	360 ÷12 =	248 ×2 =
60 ×700 =	243 +560 =	978 −236 =
400 −42 =	8 ×208 =	354 ÷3 =
213 ×5 =	213 ×30 =	676 +290 =
240 ×20 =	6000 ÷500 =	502 ÷2 =
560 ÷70 =	3 ×214 =	923 ×20 =
651 ×2 =	800 ×40 =	443 +400 =
172 ×4 =	640 ÷80 =	420 ÷4 =
700 ÷20 =	36 +76 =	129 ÷3 =
170 ×30 =	50 ×112 =	40 ×132 =
812 −110 =	110 ×8 =	66 ×400 =
420 ÷14 =	186 ÷31 =	720 ÷30 =
300 ×13 =	290 ×20 =	880 −246 =
105 ÷21 =	564 −79 =	168 ÷42 =
17 ×200 =	3400 ÷200 =	9 ×108 =

B组 变式口算题

小明的位置是第 2 列第 3 行，如图所示。

请你在图中标出下列同学的位置。

小强的位置是第 3 列第 2 行，小辉的位置是第 1 列第 6 行，小波的位置是第 5 列第 4 行，小亮的位置是第 7 列第 5 行。

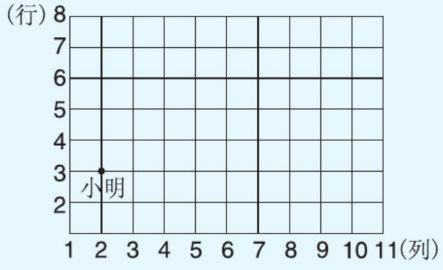

关注微信公众号“教辅资料站”获取更多学习资料

练习2　确定位置（二）

用时：____分____秒　错误：　个

A组　常规口算题

6 ×270 =	9000 ÷100 =	46 +384 =
440 ×20 =	155 −88 =	232 ×4 =
960 ÷4 =	132 ÷4 =	156 ÷3 =
60 ×500 =	248 ÷62 =	306 ÷51 =
900 −120 =	416 ÷4 =	622 ×3 =
630 ÷21 =	540 ×20 =	975 −543 =
210 +2700 =	640 ÷16 =	106 ×4 =
4 ×505 =	142 ×40 =	840 ÷14 =
3 ×215 =	213 ×4 =	64 ×200 =
640 ×20 =	648 −69 =	127 ×30 =
270 ÷90 =	336 +146 =	5600 ÷140 =
279 +636 =	40 ×140 =	714 ÷7 =
500 ×31 =	630 ÷10 =	7200 ÷900 =
350 ÷35 =	46 ×400 =	431 ×30 =
640 ×5 =	400 ÷20 =	235 −12 =
128 ÷32 =	306 ÷6 =	334 ×20 =

B组　变式口算题

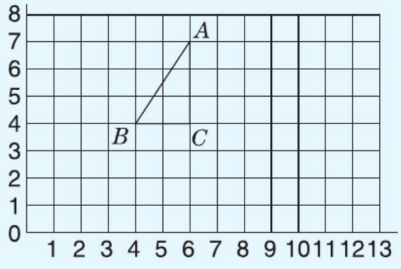

如图，A 点可表示为 $A(6,7)$，请用同样的方法表示 B 点、C 点。

B(　，　)　　C(　，　)

关注微信公众号“教辅资料站”获取更多学习资料

练习3 确定位置（三）

用时：___分___秒 错误：　个

A组 常规口算题

450 +540 =	320 ×20 =	542 +200 ×3 =
116 ×6 =	420 ÷21 =	48 ×25 =
200 ×32 =	93 +720 =	101 ×83 =
680 −276 =	680 ÷17 =	8 ×75 −8 ×35 =
228 ×20 =	314 ×5 =	630 ÷30 ÷3 =
609 +130 =	328 ÷82 =	25 ×(40 +4) =
390 ÷13 =	420 ×6 =	(15 +4) ×20 =
400 ×53 =	876 −59 =	27 ×25 +25 ×13 =
471 ×2 =	243 ÷3 =	125 ×16 =
770 −234 =	230 ×30 =	37 ×4 ×25 ×3 =
127 ×20 =	5200 ÷260 =	362 −(250 +50) =
217 +280 =	412 ×30 =	8 ×(11 +125) =
700 ×51 =	800 −760 =	53 ×25 ×8 =
320 ×9 =	130 ×7 =	480 ÷(120 −80) =
540 ÷27 =	1000 ÷25 =	132 ×42 −42 ×32 =
80 ×200 =	120 ×50 =	650 −(70 ×5 −200) =

B组 变式口算题

用数对表示下图中的正方形的顶点 A 的位置是(　，　)，当正方形向左平移 6 格后，顶点 A 的位置用数对表示为(　，　)。

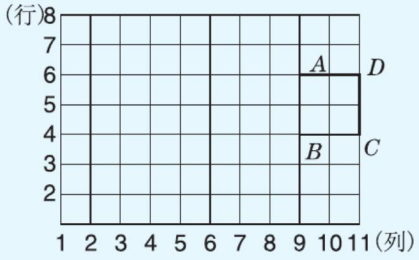

关注微信公众号“教辅资料站”获取更多学习资料

第三单元口算能力测试

用时：____分____秒　错误：　个

A组 常规口算题

821 −295 =	680 ÷17 =	(125 +80) ×8 =
38 ×200 =	126 ÷6 =	106 ×25 =
323 ×2 =	127 ×3 =	400 ÷4 ×25 =
50 ×340 =	576 ÷8 =	78 ×101 =
120 ×9 =	720 ÷90 =	642 −120 +50 =
224 ×4 =	433 +247 =	350 ÷(5 ×7) =
400 ×34 =	72 ×200 =	990 −70 ×7 =
103 −90 =	960 ÷6 =	35 ×(2 ×60) =
460 ÷23 =	803 ×2 =	99 ×78 +78 =
8 ×211 =	900 −160 =	240 +56 ×5 =
420 ×7 =	350 −60 =	489 −(189 −125) =
300 ×8 =	180 ×30 =	(40 +2) ×25 =
600 ×27 =	2800 ÷140 =	360 ÷30 ×(85 −25) =
144 ÷4 =	47 ×600 =	49 ×4 ×25 =
276 ÷92 =	231 ×4 =	5 ×17 ×18 =
42 ×300 =	620 ×20 =	133 ×24 +24 ×67 =

B组 变式口算题

看图回答问题。



1. 用数对表示图上高级中学的位置是(　，　)，电视台的位置是(　，　)。

2. 开发区的位置是(15,7)，火车站的位置是(9,8)，请你在图中标出来。

3. 从实验小学到希望广场要向(　　)走(　　)格，再向(　　)走(　　)格。

关注微信公众号“教辅资料站”获取更多学习资料

难易等级：

练习1 认识三角形（一）

用时：___分___秒　错误：　个

A组 常规口算题

20 ×900 =	6400 ÷800 =	6300 ÷210 =
70 ×210 =	840 ÷14 =	243 ×4 =
44 ×200 =	4800 ÷600 =	129 ÷3 =
269 +125 =	427 +45 =	700 ÷50 =
763 −214 =	4200 ÷210 =	29 ×5 =
540 ÷60 =	5 ×150 =	800 ×30 =
127 ×3 =	40 ×500 =	4500 ÷900 =
156 ÷52 =	321 ×3 =	936 −38 =
5 ×502 =	606 −173 =	111 ×8 =
189 ÷63 =	512 ×3 =	600 ÷40 =
258 −76 =	690 ÷23 =	276 +409 =
170 ×30 =	30 ×130 =	630 ÷70 =
219 ÷73 =	70 ÷35 =	28 ×20 =
540 ÷18 =	821 +179 =	640 −180 =
600 ×20 =	1200 ÷15 =	270 ÷2 =
60 ×280 =	57 +771 =	8100 ÷900 =

B组 变式口算题

1. 下面的图形中，哪些是三角形？请在是三角形的下面的括号里打“√”。

(1)　(2)　(3)　(4)　(5)

(　)　(　)　(　)　(　)　(　)

2. 量出下面每个三角形的底和高各是多少毫米。

(1)　(2)　(3)　(4)

关注微信公众号“教辅资料站”获取更多学习资料

练习2　认识三角形（二）

用时：____分____秒　错误：　个

A组　常规口算题

145 ×6 =	58 ×5 =	651 ×2 =
155 ÷5 =	670 ×4 =	149 +60 =
45 ×30 =	920 ÷2 =	340 ×3 =
550 −260 =	78 ×20 =	800 ÷40 =
640 ÷20 =	690 ÷3 =	98 ×50 =
701 ×50 =	325 ÷5 =	820 −190 =
23 ×8 =	602 ×70 =	803 ×90 =
67 ×7 =	310 +219 =	340 ÷5 =
75 ×80 =	65 ÷5 =	240 ÷30 =
200 ÷50 =	13 ×400 =	509 ×20 =
178 +672 =	56 ×50 =	41 ×30 =
123 ÷3 =	560 ÷80 =	632 +332 =
144 ×2 =	245 ÷5 =	670 ÷2 =
370 ÷2 =	210 ÷30 =	5 ×210 =

B组　变式口算题

下表中哪组的三条线段能围成三角形？在能的下面的括号里打“√”，不能的下面打“×”。（单位：cm）

第一组	第二组	第三组	第四组
20	50	7	18
20	60	14	7
20	70	26	25
（　）	（　）	（　）	（　）

关注微信公众号“教辅资料站”获取更多学习资料

练习3 认识三角形（三）

用时：___分___秒 错误：　个

A组 常规口算题

502 −290 =	836 −172 =	720 ÷30 =
120 ÷30 =	510 ÷17 =	5 ×120 =
200 ×60 =	610 ×20 =	146 ÷73 =
331 ×30 =	700 ÷50 =	40 ×520 =
460 ×20 =	621 ×3 =	776 −153 =
272 ×3 =	9 ×107 =	23 ×400 =
2 ×521 =	320 ÷40 =	9600 ÷600 =
763 −409 =	450 ÷15 =	7 ×230 =
590 −281 =	470 ×30 =	423 +292 =
280 ×20 =	44 ×200 =	400 ×30 =
300 ÷20 =	666 −383 =	484 ÷4 =
111 ×90 =	486 ÷81 =	600 ×70 =
32 ×200 =	212 ×3 =	9 ×202 =
117 +293 =	400 ÷50 =	1800 ÷45 =
960 ÷60 =	299 +140 =	64 ×60 =
280 ÷40 =	540 ×20 =	40 ×30 =

B组 变式口算题

1. 火眼金睛。（对的打“√”，错的打“×”）

（1）三角形越大，它的内角和越大。（　　）

（2）豆点画了一个三角形，三个内角分别是60°、40°、90°。（　　）

（3）把一个大三角形分成两个小三角形，每个小三角形的内角和都是180°。（　　）

2. 算出下面每个三角形中∠1的度数。

（1）

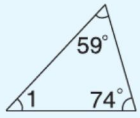

∠1 =（　　）

（2）

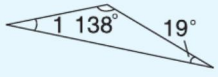

∠1 =（　　）

（3）

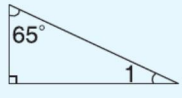

∠1 =（　　）

关注微信公众号“教辅资料站”获取更多学习资料

练习4　三角形的分类（一）

用时：____分____秒　错误：　个

A组　常规口算题

20 ×400 =	680 ÷17 =	321 ×3 =
240 ÷20 =	40 ×160 =	180 ÷60 =
945 −232 =	840 −150 =	9000 ÷3000 =
321 ×20 =	360 ÷30 =	744 ÷6 =
800 ÷50 =	440 ÷22 =	4 ×222 =
327 ×2 =	28 ×200 =	555 −107 =
5 ×901 =	284 ÷71 =	28 ×20 =
23 ×300 =	224 ÷7 =	450 ÷30 =
678 −123 =	500 ×50 =	42 ×40 =
544 ×10 =	121 +567 =	3 ×314 =
490 ÷70 =	630 ÷21 =	200 ÷50 =
582 +279 =	224 ×20 =	393 ÷3 =
43 ×200 =	40 ×530 =	3300 ÷55 =
630 ÷90 =	269 +349 =	30 ×230 =
446 +285 =	808 ÷4 =	647 −281 =
264 ÷3 =	260 ÷20 =	400 ×90 =

B组　变式口算题

1. 选一选，填一填。

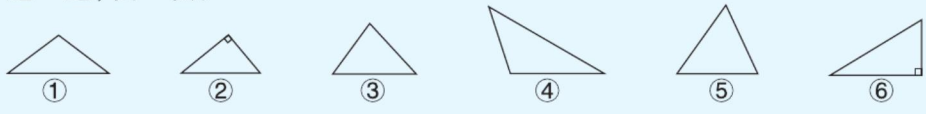

直角三角形　　锐角三角形　　钝角三角形

2. 下面是3块三角形玻璃打碎后分别留下的碎片，你知道它们原来各是什么三角形吗？



（　　）　（　　）　（　　）

关注微信公众号“教辅资料站”获取更多学习资料

练习5 三角形的分类（二）

用时：___分___秒 错误：　个

A组 常规口算题

120 ×30 =	331 ×20 =	208 ÷52 =
200 ×32 =	320 ÷40 =	990 −270 =
150 +277 =	816 −427 =	300 ×20 =
34 ×300 =	204 ×5 =	5000 ÷200 =
420 ÷30 =	480 ÷40 =	229 +198 =
400 ×60 =	20 ×200 =	270 ×20 =
271 ×30 =	240 ÷12 =	640 ÷16 =
400 ÷80 =	5 ×123 =	300 ×40 =
600 ÷40 =	330 ×20 =	6400 ÷800 =
212 ×6 =	449 +432 =	250 ÷50 =
46 ×200 =	134 ×50 =	40 ×400 =
484 ÷4 =	510 ÷30 =	864 ÷8 =
70 ×130 =	500 ×90 =	288 ÷4 =
700 ÷35 =	28 ×200 =	30 ×240 =
680 +233 =	480 ÷30 =	700 ÷50 =
60 ×510 =	800 ×20 =	900 ×60 =

B组 变式口算题

1. 一个等边三角形的边长是6 cm，它的周长是(　　)cm。

2. 一个等腰三角形的腰长是5 cm，底边长是2 cm，它的周长是(　　)cm。

3. 如图，三角形 ABE、三角形 ACD 都是等腰三角形（$AB=AE$，$AC=AD$），已知 $\angle 5=65°$，$\angle 4=44°$，那么 $\angle 1=$(　　)，$\angle 2=$(　　)，$\angle 3=$(　　)。

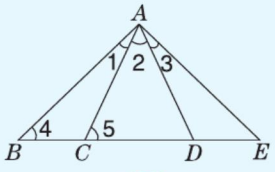

关注微信公众号“教辅资料站”获取更多学习资料

练习6　整理与复习

用时：____分____秒　错误：　个

A组　常规口算题

100 ×40 =	420 ÷60 =	125 ÷5 =
220 ×40 =	530 ×40 =	2100 ÷15 =
88 +320 =	111 +299 =	700 ×80 =
340 ×50 =	30 ×200 =	60 ×120 =
600 ×15 =	450 ÷50 =	778 −498 =
300 ÷50 =	834 −724 =	40 ×500 =
421 ×20 =	3000 ÷500 =	246 ÷82 =
310 ×20 =	700 ×13 =	296 −96 =
400 ÷80 =	570 ÷30 =	300 ×32 =
618 ÷6 =	500 ×20 =	215 ×4 =
200 ÷50 =	310 ×40 =	7 ×109 =
444 −230 =	808 +120 =	800 ÷80 =
980 −290 =	8100 ÷900 =	832 ÷8 =
100 ÷20 =	260 ÷2 =	455 ÷5 =
703 +241 =	404 ×2 =	400 ×14 =
600 ×13 =	314 ×3 =	50 ×900 =

B组　变式口算题

判断题。

1. 用3 cm、4 cm、10 cm长的三根小棒可以围成一个三角形。(　　)

2. 直角三角形只有一条高。(　　)

3. 用10倍放大镜看一个三角形，这个三角形的内角和变成了1800°。(　　)

4. 等腰三角形一定是锐角三角形。(　　)

5. 在一个三角形中，最多有三个锐角，最少有两个锐角。(　　)

关注微信公众号“教辅资料站”获取更多学习资料

第四单元口算能力测试

用时：___分___秒 错误：　个

A组 常规口算题

100 ×90 =	200 ×32 =	28 ÷14 =
122 ×20 =	151 ×8 =	102 ×6 =
120 ×80 =	80 ×200 =	432 ÷4 =
481 +213 =	300 ÷20 =	9 ×700 =
30 ×113 =	770 −240 =	320 +80 =
700 ÷50 =	300 ×90 =	960 ÷60 =
646 −185 =	20 ×323 =	114 ×5 =
400 ×60 =	217 ×4 =	840 ÷20 =
20 ×251 =	400 ×15 =	366 ÷6 =
881 −20 =	30 ×900 =	50 ×560 =
500 ×40 =	462 +428 =	23 ×70 =
24 ×300 =	600 ×60 =	726 ÷6 =
981 ÷9 =	276 −133 =	550 +160 =
792 ÷3 =	6000 ÷500 =	45 +201 =
980 −470 =	800 ×7 =	760 −250 =
650 ÷13 =	288 ÷72 =	960 ÷40 =

B组 变式口算题

1. 在一个三角形中，已知∠1 = 46°，∠2 = 54°，则这个三角形是(　　)角三角形。
2. 一个等腰三角形的一条边长是 3 cm，另一条边长是 6 cm，则这个三角形的周长是(　　)cm。
3. 边长为 12 cm 的正方形铁丝框，拆开后围成一个最大的等边三角形，这个等边三角形的边长是(　　)cm。
4. 小红用三根整厘米长的小棒拼三角形，其中两根小棒的长度分别是 8 cm 和 12 cm，第三根小棒最长可以是(　　)cm，最短可以是(　　)cm。

关注微信公众号“教辅资料站”获取更多学习资料

第五单元 小 数

练习1 小数的意义（一）

用时：____分____秒　错误：　个

A组 常规口算题

0.6 + 0.8 =
2.4 − 0.9 =
5 − 1.5 =
3.8 + 2.1 =
3.2 + 9.7 =
34.6 − 20.4 =
1.5 + 17.3 =
20.4 − 19.8 =
10.1 − 2.7 =
8.8 + 9.3 =
9.4 − 3.3 =
22.5 − 12.3 =
37.2 − 18.9 =
50.5 − 39.7 =
10 − 7.6 =
61.1 − 45.6 =

1.9 − 0.7 =
4.2 + 3.3 =
4.6 − 2.8 =
7.3 − 5.9 =
2.1 − 0.9 =
2.5 + 4.9 =
5.2 − 2.8 =
1.8 + 1.6 =
3.8 + 4.9 =
7.6 − 2.3 =
11.2 + 4.4 =
6.2 + 5.8 =
54.8 + 13.3 =
29.8 + 17 =
34.4 + 18.9 =
31.7 + 22.7 =

◆ 比较大小。

1.7 ◯ 1.6
0.9 ◯ 0.8
6.3 ◯ 5.9
15.2 ◯ 15.2
3.6 ◯ 5.6
7.8 ◯ 6.9
4.1 ◯ 3.7
5.8 ◯ 6
20 ◯ 19.9
1.5 ◯ 1.6
9.4 ◯ 9.5
67.1 ◯ 61.7

B组 变式口算题

1. 看图写出相应的分数和小数。



分数：_____小数：_____



分数：_____小数：_____

2. 把下列小数和相应的分数用线连起来。

0.09　　0.009　　0.9

$\frac{9}{10}$　　$\frac{9}{100}$　　$\frac{9}{1000}$

关注微信公众号“教辅资料站”获取更多学习资料

练习2 小数的意义（二）

用时：___分___秒 错误：　个

A组 常规口算题

5.4 +1.8 =
3.9 −2.6 =
10.3 −7.8 =
11.9 +0.9 =
8.8 −5.9 =
28.2 +9.8 =
6.5 −6.3 =
7.3 −5.4 =
10.2 −9.2 =
2.4 −0.5 =
0.8 +1.8 =
4.6 +3.7 =
15.6 +24 =
60.2 −39.6 =
7.8 +17.8 =
82.4 −54.6 =

7.7 −3.9 =
4.1 −3.4 =
6.9 +12.4 =
15.4 −14.2 =
32.7 +12.3 =
2.1 −1.2 =
1.8 +0.6 =
1.1 −0.4 =
9.4 +9.3 =
3.1 +1.3 =
33.2 +12.9 =
27.8 −14.6 =
31 −3.1 =
25.7 +42.9 =
51.2 −39.9 =
12.8 +18.2 =

◆ 比较大小。

4.3 ◯ 3.9
20.1 ◯ 21
7.8 ◯ 7.7
45.6 ◯ 54.1
3.1 ◯ 3.0
2.8 ◯ 2.7
72.1 ◯ 71.2
9.9 ◯ 10
0.7 ◯ 0.6
6.6 ◯ 9.9
10.5 ◯ 8.5

B组 变式口算题

填一填。

1. 8.45 是由(　　)个一，(　　)个$\frac{1}{10}$和(　　)个$\frac{1}{100}$组成的。

2. 在小数 12.39 中，1 在(　　)位上，2 在(　　)位上，3 在(　　)位上，9 在(　　)位上。

3. 0.9 里面有(　　)个 0.1。

4. 0.062 里面有 62 个(　　)。

5. 8 个 0.1 和 3 个 0.01 组成的数是(　　)。

关注微信公众号“教辅资料站”获取更多学习资料

练习3　小数的意义（三）

用时：___分___秒　错误：　个

A组　常规口算题

46.9 −6.9 =　　10.1 +9.2 =　　26.8 +6.8 =

1.3 −0.7 =　　0.7 +0.5 =　　1.7 +1.7 =

7.8 −7.4 =　　9.9 −4.5 =　　0.8 +4.4 =

7.3 +2.3 =　　8.2 −7.9 =　　3.2 +3.6 =

18.5 −18.1 =　　12.3 +7.8 =　　40 −35.5 =

7.8 +6.5 =

◆ 读出下面各小数。

0.13 读作：_____

15.403 读作：_____

0.08 读作：_____

3.69 读作：_____

0.004 读作：_____

30.8 读作：_____

40.05 读作：_____

368.12 读作：_____

10.08 读作：_____

20.09 读作：_____

1005.22 读作：_____

7.82 读作：_____

40.004 读作：_____

50.01 读作：_____

0.985 读作：_____

◆ 写出下面各小数。

十三点零八　写作：_____

七十点八四　写作：_____

十点零四五　写作：_____

一千零三点零八　写作：_____

三十六点零四　写作：_____

七十二点零三　写作：_____

三十点零四　写作：_____

五点零六　写作：_____

二百点零九　写作：_____

三百点零零一　写作：_____

九点八六　写作：_____

三十点零七　写作：_____

四千一百零五点二二一　写作：_____

六点零零九　写作：_____

四十点零零一　写作：_____

B组　变式口算题

1. 写出由2个5、2个0和小数点组成的符合下列条件的小数。

(1) 只读出一个零。(　　)

(2) 两个零都不读出来。(　　)

(3) 读出两个零。(　　)

2. 小华在读数时，不小心把小数点漏掉了，读成了“三万九千零一”，已知原数只读两个0且是三位小数，原数是(　　)。

关注微信公众号“教辅资料站”获取更多学习资料

练习4 小数的性质

用时：____分____秒 错误：　个

A组 常规口算题

300 ×300 =	240 +720 =	6. 2 −3. 5 =
819 ÷9 =	5100 ÷17 =	22 ×200 =
14. 6 −1. 9 =	4. 5 −3. 7 =	461 ×10 =
266 ÷2 =	103 ×6 =	4. 2 −1. 8 =
480 ÷60 =	270 ÷9 =	2800 ÷14 =
22 ×400 =	0. 9 +1. 3 =	1. 8 +0. 7 =
4. 7 +1. 5 =	10. 9 −2. 1 =	71 ×200 =
145 ×2 =	8. 8 −6. 9 =	0. 8 +2. 5 =
4. 4 +1. 4 =	40 −4 =	5400 ÷18 =
2. 7 +1. 2 =	61 ×200 =	4. 7 −0. 9 =
3. 5 −1. 8 =	123 ×4 =	100 ×88 =
320 ÷2 =	720 ÷24 =	2. 2 +1. 4 =
10 ×560 =	9. 9 −7. 7 =	1. 5 +6. 7 =
160 +18 =	151 ×3 =	200 ÷50 =
672 +143 =	5 ×102 =	123 ÷3 =
24. 4 −1. 2 =	6. 4 −4. 5 =	46 ÷23 =
420 ×30 =	350 ×5 =	7. 8 +2. 6 =

B组 变式口算题

1. 不改变数的大小，把下面各数改写成两位小数。

2. 1 = 　13. 4000 = 　56 = 　7. 100 = 　8. 3 =

2. 化简下面各数。

6. 500 = 　9. 090 = 　4. 00 = 　10. 1000 =

3. 把大小相等的数用线连起来。

4. 040	30	1. 0000	0. 080	6
6. 0	4. 04	1. 0	30. 00	0. 08

关注微信公众号“教辅资料站”获取更多学习资料

练习5 小数的大小比较

用时：___分___秒 错误： 个

A组 常规口算题

20 ×600 =	640 ÷16 =	◆ 比较大小。
9. 5 −4. 5 =	1. 7 +2. 8 =	0. 8 ◯ 0. 801
124 ×20 =	336 +260 =	4. 25 ◯ 4. 205
50 ×800 =	420 ÷14 =	5. 03 ◯ 5. 3
7. 2 +6. 3 =	450 ÷30 =	12. 463 ◯ 16. 419
310 ×50 =	9. 9 −2. 6 =	3 ◯ 3. 00
284 ÷71 =	284 −71 =	0. 54 m ◯ 5. 4 dm
1. 6 +4. 3 =	8. 3 −7. 7 =	0. 2 ◯ 0. 09
400 ×20 =	427 ÷61 =	1. 01 ◯ 1. 1
8000 ÷4000 =	6. 6 −3. 3 =	2. 071 ◯ 2. 07
276 +115 =	60 ×700 =	0. 7 ◯ 0. 704
0. 8 +1. 3 =	960 −170 =	0. 47 ◯ 0. 74
300 ×50 =	9000 ÷3000 =	12. 8 ◯ 1. 28
4. 7 −1. 2 =	5. 4 +6. 9 =	1. 09 ◯ 1. 090
480 ×20 =	8400 ÷420 =	2. 8 ◯ 1. 9
132 +36 =	200 ×90 =	4. 03 ◯ 3. 4

B组 变式口算题

1. 先在直线上用点表示出下面各数，再比较每组中两个小数的大小。

0. 08 ◯ 0. 11　　0. 2 ◯ 0. 23　　0. 03 ◯ 0. 3

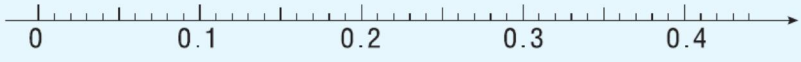

2. 下面□里最大能填几？

(1)1. □7 <1. 59　　(2)13. 6 □ <13. 6 □4

(3)4. □9 <4. □8　　(4)7. 05 □ <7. 0 □5

关注微信公众号“教辅资料站”获取更多学习资料

练习6 习题课

用时：___分___秒 错误：　个

A组 常规口算题

2.8 − 1.2 =	427 + 191 =	78 × 12 − 28 × 12 =
5000 ÷ 200 =	510 × 5 =	60 × (11 × 5) =
7.7 + 1.3 =	340 × 40 =	102 + 27 + 98 + 173 =
341 × 2 =	3.2 + 2.9 =	301 × (150 ÷ 50) =
1800 ÷ 300 =	764 − 269 =	8 × 17 × 25 =
267 ÷ 3 =	122 × 4 =	(125 + 20) × 8 =
420 ÷ 21 =	30 × 312 =	2 × 8 × 15 =
630 ÷ 90 =	230 × 30 =	440 ÷ (11 × 8) =
6.5 + 2.4 =	1.8 − 0.9 =	102 × 45 =
144 ÷ 72 =	500 × 50 =	62 × 8 − 400 =
400 ÷ 20 =	15.6 + 2.7 =	500 × (140 − 90) =
693 ÷ 3 =	33 × 200 =	2 × 28 × 50 =
960 ÷ 16 =	4.4 + 8.6 =	27 × (100 − 1) =
3.5 − 2.8 =	12.8 + 9.2 =	80 ÷ (240 ÷ 60) =
420 × 30 =	2.7 + 5.7 =	12 × 13 × 5 =
253 + 164 =	510 × 90 =	136 × 16 − 16 × 36 =

B组 变式口算题

1. 把大小相等的数用线连起来。

0.89	290	4.500	4	7.06	10.00
4.00	7.060	0.890	10	290.0	4.50

2. 将每组中的数按从小到大的顺序排列起来。

(1)14　14.01　14.09　13.98　14.10

_____

(2)0.9　0.909　0.099　0.99　0.009

_____

关注微信公众号“教辅资料站”获取更多学习资料

练习7　小数点位置移动引起小数大小的变化

用时：____分____秒　错误：　个

A组　常规口算题

7.7 +9.6 =	5.4 ×100 =	26.8 ÷10 =
10.3 −8.7 =	154.6 ÷1000 =	0.09 ×100 =
34.5 +24.6 =	17.3 ×10 =	7.59 ÷100 =
6.2 −4.9 =	0.71 ×100 =	131.7 ÷1000 =
5.4 +9.8 =	66.4 ÷10 =	34.6 ×10 =
13.1 −7.9 =	3.8 ×1000 =	54.6 ÷1000 =
4.9 +10.1 =	0.1 ÷100 =	8.32 ×100 =
40.8 −36.4 =	40 ÷1000 =	0.96 ×10 =
7.6 −5.8 =	1.82 ×100 =	0.5 ÷100 =
20.9 −15.5 =	86.7 ÷10 =	0.009 ×1000 =
8.1 −4.4 =	15.3 ×100 =	90.2 ÷10 =
49.8 +3.2 =	0.5 ÷10 =	4.05 ×100 =
71.3 −58.4 =	0.089 ×100 =	6 ÷10 =
50.2 +38.7 =	45.2 ÷1000 =	1.34 ×10 =

B组　变式口算题

1. 在○里填上“×”或“÷”，在□里填上合适的数。

0.568 ○□ =56.8　10.04 ○□ =1.004　2.17 ○□ =2170

8.59 ○□ =0.859　4.04 ○□ =4040　0.375 ○□ =0.0375

2. 请在□里填上适当的数。

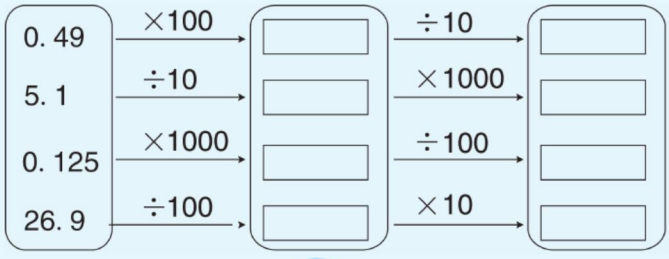

关注微信公众号“教辅资料站”获取更多学习资料

练习8 习题课

用时：____分____秒 错误：　个

A组 常规口算题

25.8 − 15.6 =	0.9 × 100 =	1.92 ÷ 10 =
6.4 + 3.6 =	7.1 ÷ 10 =	0.19 × 1000 =
4.2 − 2.4 =	25.4 × 100 =	428.9 ÷ 1000 =
51.8 + 5.6 =	8.9 ÷ 100 =	25.5 × 10 =
70.7 − 50.5 =	6.08 × 1000 =	46.8 ÷ 100 =
90.5 − 40 =	17.3 ÷ 10 =	0.86 × 100 =
4.8 + 20.6 =	30.9 × 100 =	81.98 ÷ 10 =
43.1 − 27.1 =	50.5 ÷ 100 =	3.8 × 1000 =
10.9 − 8.9 =	66.6 × 10 =	100.8 ÷ 100 =
5.9 + 13.4 =	80.6 ÷ 1000 =	0.506 × 10 =
34.9 − 12.5 =	0.054 × 100 =	37.8 ÷ 10 =
16.5 + 27.7 =	51 ÷ 1000 =	0.794 × 1000 =
61 − 48.7 =	2.365 × 100 =	1.5 ÷ 10 =
42.7 + 9.4 =	32.1 ÷ 1000 =	6.78 × 100 =
41.2 − 35.8 =	1.08 × 10 =	90.03 ÷ 100 =
21.2 + 18.9 =	0.006 × 1000 =	547 ÷ 1000 =

B组 变式口算题

1. 请在括号里填上适当的数。

(1)把 5.01 的小数点向左移动一位得到的数是(　　)。

(2)把 0.604 的小数点向右移动一位得到的数是(　　)。

(3)(　　)扩大到它的 100 倍得到的数是 99。

(4)把 258.1 缩小到它的(　　)得到的数是 0.2581。

2. 小明买 10 本同样的故事书花了 128 元，照这样计算，买 100 本这样的故事书他需要花(　　)元。

关注微信公众号“教辅资料站”获取更多学习资料

练习9　单位换算（一）

用时：____分____秒　错误：　个

A组　常规口算题

200 ÷50 =
6. 4 +5. 6 =
11. 7 +24. 2 =
350. 7 ÷10 =
400 ÷80 =
42. 6 ×100 =
2. 8 −1. 3 =
43. 3 ÷100 =
340 ÷17 =
4. 1 −1. 9 =
6. 5 +4. 7 =
1. 6 ×10 =
22 ×400 =
2. 8 ×100 =
3. 7 +10. 8 =
36. 57 ÷100 =

◆ 填空。

128 cm = (　　) m
28 dm = (　　) m
0. 58 t = (　　) kg
3. 9 km = (　　) m
36 mm = (　　) cm
48 kg = (　　) t
1. 68 kg = (　　) g
384 g = (　　) kg
98 cm = (　　) m
2800 kg = (　　) t
226 g = (　　) kg
3. 48 m = (　　) cm
0. 43 t = (　　) kg
12 dm^2 = (　　) m^2
0. 86 m^2 = (　　) dm^2
1. 36 m = (　　) cm

8. 16 m = (　　) cm
5. 6 t = (　　) kg
0. 37 dm^2 = (　　) cm^2
1. 5 m^2 = (　　) dm^2
6. 2 mm = (　　) cm
3. 2 kg = (　　) g
(　　) km = 105 m
(　　) 元 = 45 角
(　　) 分 = 4. 2 角
(　　) mm = 1. 2 cm
4. 2 t = (　　) kg
(　　) t = 32 kg
(　　) dm = 5. 4 m
6. 7 cm = (　　) mm
5 m = (　　) km

B组　变式口算题

1. 小明的身高是 80 cm，合(　　) m。
2. 一条鱼重 1. 52 kg，合(　　) g。
3. 一本书长 20 cm，合(　　) m。
4. 连一连。（把鸽子送回家）

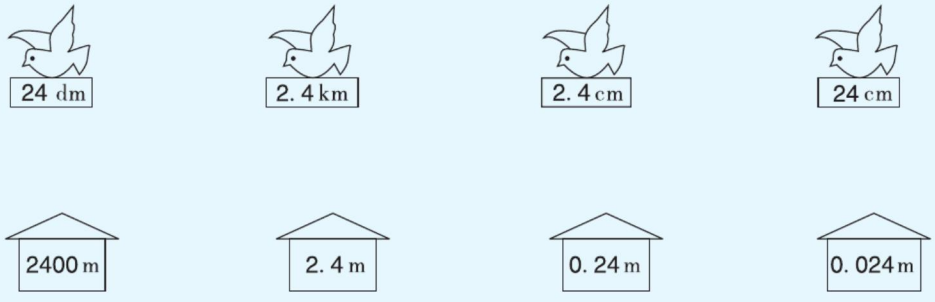

关注微信公众号“教辅资料站”获取更多学习资料

练习10 单位换算（二）

用时：___分___秒 错误：　个

A组 常规口算题

◆ 填空。

3 m 80 cm = (　　) m

3.001 t = (　　) t (　　) kg

5 km 40 m = (　　) m

4 t 80 kg = (　　) t

1 m 58 cm = (　　) cm

8 kg 65 g = (　　) kg

24.85 元 = (　　) 元 (　　) 角 (　　) 分

1 kg 500 g = (　　) kg

4 km 40 m = (　　) km

6.05 dm = (　　) dm (　　) mm

4.62 元 = (　　) 元 (　　) 角 (　　) 分

1.04 m = (　　) m (　　) cm

10.23 m^2 = (　　) m^2 (　　) dm^2

3.4 元 = (　　) 角

4 元 2 角 = (　　) 元

1.36 m = (　　) m (　　) dm (　　) cm

6 kg 300 g = (　　) kg

8 m 1 dm 7 cm = (　　) m

6.25 kg = (　　) kg (　　) g

2 kg 86 g = (　　) kg

28 m 6 dm = (　　) m

9 m 6 cm = (　　) m

2 kg 42 g = (　　) kg

0.42 元 = (　　) 角 (　　) 分

8 元 4 角 6 分 = (　　) 元

2 kg 240 g = (　　) kg

2 元 3 分 = (　　) 元

6.5 dm^2 = (　　) cm^2

9 m 8 cm = (　　) cm

5 元 8 分 = (　　) 元

B组 变式口算题

1. 在◯里填上“ > ”“ < ”或“ = ”。

0.07 kg ◯ 9 g　　1.4 t ◯ 1 t 39 kg　　4 元 5 分 ◯ 4.5 元

2 kg 200 g ◯ 2.02 kg　　4.6 m ◯ 4 m 60 dm　　6.7 元 ◯ 67 角

2. 排顺序。

下面是四名同学的身高，请你按照从高到低的顺序把他们排好队。

1.71 m　　1 m45 cm　　16.1 dm　　1 m7 dm

关注微信公众号“教辅资料站”获取更多学习资料

练习 11　小数的近似数（一）

用时：____分____秒　错误：　个

A组　常规口算题

1. 23 ×100 =	2. 07 ÷10 =	◆ 保留两位小数。
5. 9 ÷10 =	0. 9 ×1000 =	0. 654 ≈
12. 89 ×1000 =	23. 4 ÷100 =	3. 723 ≈
1. 2 ÷100 =	3. 72 ×1000 =	12. 008 ≈
2. 9 ×1000 =	2. 39 ÷10 =	0. 684 ≈
0. 234 ÷10 =	11. 9 ×100 =	1. 0785 ≈
7. 89 ×100 =	0. 96 ÷10 =	8. 445 ≈
78. 09 ÷1000 =	14. 65 ×1000 =	5. 256 ≈
0. 78 ×10 =	5. 68 ÷10 =	17. 016 ≈
78. 9 ÷100 =	0. 13 ×100 =	2. 0987 ≈
16. 73 ×1000 =	80. 9 ÷1000 =	11. 006 ≈
9. 01 ÷10 =	34. 09 ×100 =	0. 526 ≈
5. 86 ×100 =	19. 64 ÷10 =	9. 997 ≈
10. 08 ÷1000 =	0. 123 ×1000 =	13. 098 ≈

B组　变式口算题

1. 按照要求写出表中小数的近似数。

数字	保留整数	保留一位小数	保留两位小数
8. 865			
0. 804			
4. 876			

2. 在□里填上与小数最接近的整数。

□ <4. 38 < □　　□ <11. 67 < □

□ <6. 04 < □　　□ <5. 76 < □

关注微信公众号“教辅资料站”获取更多学习资料

练习 12　小数的近似数（二）

用时：____分____秒　错误：　个

A组 常规口算题

2.3 + 6.7 =	6.5 − 1.2 =	1870000000 = (　　)亿
9.7 − 0.4 =	17.1 + 6.9 =	234000 = (　　)万
33.2 + 19.1 =	55.4 − 23.6 =	328700 = (　　)万
17.8 − 0.2 =	6.9 + 2.4 =	240000000 = (　　)亿
3.2 + 8.9 =	34.5 − 9.8 =	320000000 = (　　)亿
13.6 − 4.6 =	9.8 + 4.2 =	35990 = (　　)万
23.4 + 5.5 =	41.2 − 15.6 =	36000 = (　　)万
57.9 − 17.9 =	7.1 + 14.5 =	7890000000 = (　　)亿
9.1 + 11.3 =	0.8 − 0.5 =	12000000 = (　　)亿
17.9 − 9.6 =	21.3 + 17.7 =	179000 = (　　)万
8.4 + 7.2 =	5.4 − 2.9 =	560000000 = (　　)亿
16.5 − 6.3 =	72.1 + 9.5 =	345000 = (　　)万
40 − 18.9 =	12.8 + 23.1 =	120400000 = (　　)亿
42.4 + 16.6 =	30.7 − 19.8 =	67100 = (　　)万
30.6 − 13.3 =	25.7 + 19.8 =	370890000 = (　　)亿

B组 变式口算题

241800 = (　　)万 ≈ (　　)万(保留整数)

521800 = (　　)万 ≈ (　　)万(保留一位小数)

772000000 = (　　)亿 ≈ (　　)亿(保留一位小数)

288320 = (　　)万 ≈ (　　)万(保留两位小数)

72400 = (　　)万 ≈ (　　)万(保留一位小数)

432800000 = (　　)亿 ≈ (　　)亿(保留两位小数)

549200 = (　　)万 ≈ (　　)万(保留一位小数)

285700000 = (　　)亿 ≈ (　　)亿(保留两位小数)

关注微信公众号“教辅资料站”获取更多学习资料

练习 13　习题课

用时：____分____秒　错误：　个

A组 常规口算题

◆ 保留两位小数。

8.976≈

0.809≈

11.909≈

6.486≈

7.967≈

3.7609≈

0.899≈

9.0847≈

1.056≈

17.008≈

1.997≈

50.095≈

98.104≈

◆ 比较大小。

6.400 ◯ 6.4

4.789 ◯ 4.788

0.51 ◯ 0.509

870 cm ◯ 8.70 m

60 g ◯ 0.6 kg

10.47 cm^2 ◯ 10.46 cm^2

9.400 ◯ 9.4

8.913 ◯ 8.914

0.52 ◯ 0.520

34 dm ◯ 3.4 cm

3 t ◯ 300 kg

0.5 公顷 ◯ 5000 m^2

1.32 m ◯ 13.2 cm

◆ 填空。

0.89 kg = (　　) g

3.9 t = (　　) kg

34 dm = (　　) m

1460 g = (　　) kg

5.02 km = (　　) m

6.3 kg = (　　) g

0.89 m = (　　) cm

1.53 km = (　　) m

65 角 = (　　) 元

8.5 t = (　　) kg

3 dm = (　　) m

350 g = (　　) kg

608 dm^2 = (　　) m^2

0.25 km = (　　) m

B组 变式口算题

1. 在◯里填上“>”“<”或“=”。

4.2 m ◯ 420 cm　　4 kg ◯ 4.08 kg　　8 kg 50 g ◯ 8.5 kg

1 m 52 cm ◯ 1.08 m　　4 元 6 分 ◯ 4.6 元　　8.8 t ◯ 8 t 80 kg

2. 一根木头长 1.5 m，重 2600 g。1000 根这样的木头一共长(　　) km，重(　　) t。

3. 括号里最大能填几？

5(　　)741≈5 万　　9(　　)0980000≈10 亿

关注微信公众号“教辅资料站”获取更多学习资料

第五单元口算能力测试

用时：____分____秒 错误：　个

A组 常规口算题

3.4 +2.3 =	7.9 ×100 =	67.9 ×100 =
6.7 −2.3 =	12.4 ÷10 =	21.3 ÷1000 =
23.5 +3.4 =	9.4 ÷100 =	1.23 ×10 =
7.6 −2.3 =	11.9 ×1000 =	13.2 ÷100 =
12.6 +2.2 =	7.45 ×10 =	32.4 ×1000 =
6.5 −2.1 =	13.6 ÷1000 =	2.34 ÷100 =
76.2 −6.2 =	43.6 ÷10 =	1.89 ×10 =
19.8 +0.1 =	8.3 ×10 =	19.4 ÷1000 =
9.5 +0.3 =	567.8 ÷100 =	8.23 ×100 =
15.3 +3.4 =	0.061 ×1000 =	56.9 ÷10 =
79.5 +0.2 =	18.82 ÷10 =	2.45 ×100 =
6.5 +3.2 =	5.079 ×100 =	79.2 ÷1000 =
62.4 +3.5 =	100.9 ÷1000 =	0.023 ×1000 =
80.2 −20 =	69.7 ÷100 =	50 ÷1000 =
42.5 +20.1 =	0.19 ×1000 =	4.503 ÷10 =
21.6 −11.6 =	3.15 ×100 =	19.6 ×100 =

B组 变式口算题

1. 下面的小数各在哪两个相邻的一位小数之间？

（　　）<5.67<（　　）　　（　　）<7.342<（　　）

（　　）<2.342<（　　）

2. 填空。

8 kg 40 g =（　　）kg　　2 kg 250 g =（　　）kg

2 m 3 dm =（　　）m　　5.25 km =（　　）km（　　）m

6.5 kg =（　　）g　　4 dm 7 cm =（　　）dm

3.2 dm =（　　）cm　　12.48 元 =（　　）元（　　）角（　　）分

5.09 kg =（　　）kg（　　）g

关注微信公众号“教辅资料站”获取更多学习资料

第六单元 平行四边形和梯形

练习1 平行四边形

用时：____分____秒　错误：　个

A组 常规口算题

568 +132 =	470 ÷10 =	434 ×3 =
110 ×30 =	9. 9 −2. 6 =	21 ×300 =
7. 5 +2. 5 =	0. 19 ÷100 =	5. 9 ×100 =
1. 9 ×100 =	7 ÷100 =	363 ÷3 =
210 ÷30 =	12. 3 +4. 3 =	12. 8 +7. 9 =
3600 ÷20 =	5. 7 +2. 4 =	63. 1 ÷10 =
10. 6 −2. 1 =	6. 3 ×100 =	0. 29 ×100 =
0. 8 ÷100 =	46 ×100 =	34. 5 +12. 1 =
40 ×120 =	250 ×20 =	124. 5 ÷1000 =
4. 3 ×1000 =	3. 6 ÷100 =	53. 6 −24. 2 =
6. 7 ÷1000 =	720 ÷80 =	9. 4 +2. 6 =
810 ÷90 =	124 ×20 =	0. 14 ÷100 =
10 ×117 =	56 ÷100 =	6. 78 ×100 =
11. 7 −2. 7 =	11. 2 −8. 6 =	270 ÷90 =
11. 6 +4. 5 =	120 ×30 =	27. 9 +72. 1 =
323 ×3 =	170 +80 =	880 −119 =

B组 变式口算题

1. 在下图中标出平行四边形的底和高。

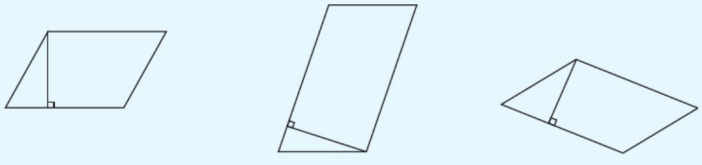

2. 在下面的(　　)里填上适当的数。

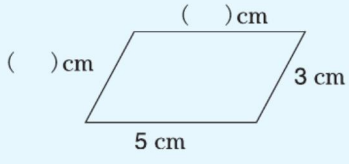

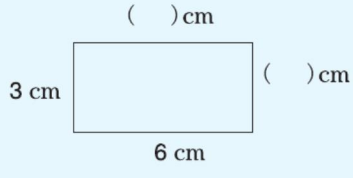

关注微信公众号“教辅资料站”获取更多学习资料

练习2 梯 形

用时：___分___秒 错误： 个

A组 常规口算题

4.7 +2.5 =	1.5 ÷100 =	11.7 −4.9 =
493 +129 =	250 ÷5 =	421 ×40 =
241 ×20 =	180 ×4 =	640 ÷20 =
1.6 ÷100 =	700 ×25 =	15.6 −8.7 =
21.7 ÷1000 =	9.7 +10.5 =	16.9 +5.9 =
24 ×300 =	11.6 ×1000 =	15.3 ÷1000 =
6.7 +11.7 =	8.9 ÷100 =	320 ÷5 =
44.1 ÷100 =	260 ÷20 =	560 −290 =
56.2 −12.3 =	23.7 −12.1 =	11.78 ×100 =
67 ×4 =	300 ×6 =	212.5 ÷100 =
6.54 ×100 =	817 +123 =	7800 ÷30 =
860 ×4 =	0.169 ×1000 =	34.4 +8.8 =
5.9 −2.4 =	75.8 −21.3 =	47.4 −23.4 =
21.4 +20.5 =	41.4 +12.3 =	1.56 ×100 =
0.243 ×100 =	10.56 ×100 =	204.5 ÷1000 =
204 ÷3 =	210 ×7 =	5 ×215 =

B组 变式口算题

1. 标出梯形的底、高和腰。

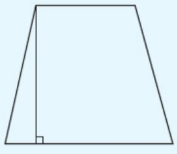

(1)

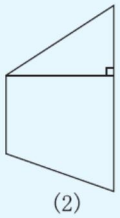

(2)

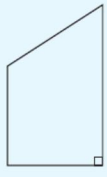

(3)

2. 等腰梯形的周长为35 cm，上、下底分别长5 cm和12 cm，则它的一条腰的长为(　　)cm。

3. 等腰梯形的周长为27 cm，上底长为7 cm，一条腰的长为6 cm，则它的下底长为(　　)cm。

关注微信公众号“教辅资料站”获取更多学习资料

练习3　探索规律（一）

用时：____分____秒　错误：　个

A组　常规口算题

623 −118 =	705 +26 =	590 −210 =
24 ×600 =	132 ×5 =	411 ×4 =
21. 4 −7. 3 =	70 ×230 =	7. 5 +2. 4 =
5. 7 +5. 8 =	21. 4 +6. 6 =	12. 4 −8. 4 =
0. 168 ×100 =	216. 5 ÷100 =	0. 861 ×1000 =
6 ×141 =	6900 ÷300 =	50 ×150 =
21. 45 ÷100 =	226 ×2 =	7. 8 +9. 8 =
834 −109 =	17. 5 −6. 3 =	25. 3 −12. 1 =
26. 5 −7. 9 =	8. 6 ×1000 =	3 ×330 =
332 ×2 =	750 ÷5 =	61 ×400 =
5. 432 ×100 =	364 ÷4 =	816 ÷4 =
6. 6 +7. 7 =	28. 9 +11. 1 =	5. 47 ×100 =
18 ×300 =	8. 765 ×100 =	161. 4 ÷1000 =
672. 3 ÷100 =	41. 7 −20. 4 =	9. 3 +16. 6 =
160 ×8 =	118 +274 =	169. 4 ÷100 =
0. 179 ×1000 =	1. 679 ×100 =	400 ×16 =

B组　变式口算题

1. ○☆△□○☆△□○☆△□……

在上面的图形中，从左到右第35个图形是(　　)。

2. 给公园的花坛里摆放菊花，按1盆白色，5盆黄色，2盆红色排列，第30盆该摆放(　　)颜色的菊花。

3. 有一些珠子，按下图的方式排列。



那么第32颗是(　　)，第61颗是(　　)。

关注微信公众号“教辅资料站”获取更多学习资料

练习4 探索规律（二）

用时：___分___秒 错误：　个

A组 常规口算题

5 ×510 =	277 +42 =	396 −58 =
0. 37 ×100 =	4. 3 +2. 5 =	20 ×170 =
1. 6 +2. 7 =	562 ÷2 =	17. 4 −5. 2 =
3900 ÷30 =	20. 56 ÷100 =	70 ×150 =
140 ×40 =	13. 4 −5. 6 =	1700 ÷5 =
11. 7 −5. 6 =	6. 7 +4. 8 =	21. 4 +10. 7 =
799 −212 =	190 ×30 =	7. 19 ×100 =
0. 169 ×1000 =	1800 ÷30 =	210. 7 ÷100 =
8 ×150 =	0. 718 ×100 =	562 +174 =
271. 4 ÷100 =	361 ×2 =	160 ×50 =
1500 ÷300 =	314. 5 ÷100 =	6400 ÷80 =
47. 2 −21. 4 =	51. 7 +12. 3 =	0. 896 ÷100 =
2. 164 ×100 =	287. 4 ÷100 =	21. 76 ×100 =
6000 ÷200 =	15 ×50 =	17 ×800 =
1. 479 ×100 =	6. 8 +2. 7 =	3. 567 ×100 =
4 ×116 =	56. 7 −20. 4 =	210 ×7 =

B组 变式口算题

观察下面图形，找规律填表。

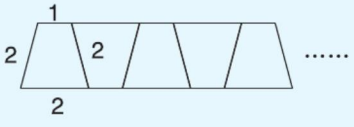

小梯形个数	1	2	3	4	…
图形的形状					…
图形的周长					…

关注微信公众号“教辅资料站”获取更多学习资料

第六单元口算能力测试

用时：____分____秒　错误：　个

A组 常规口算题

304 ×5 =	620 ×2 =	1. 123 ×100 =
24 ×50 =	40 ×500 =	115 +290 =
880 −216 =	223 ×4 =	146 ÷2 =
500 ÷20 =	1. 7 +2. 4 =	2. 7 ×1000 =
5. 8 ×100 =	0. 167 ×1000 =	210. 5 ÷100 =
4. 9 +2. 7 =	217. 5 ÷100 =	60. 4 +7. 6 =
27. 1 −14. 6 =	6000 ÷20 =	660 ÷20 =
580 ÷20 =	6. 172 ×100 =	4 ×600 =
6. 9 ×1000 =	4. 7 +8. 9 =	621. 5 ÷100 =
30 ×140 =	61. 4 −12. 3 =	5. 9 ×100 =
9. 1 +5. 3 =	20 ×190 =	200 ×140 =
42. 1 −21. 5 =	6. 91 ×100 =	206 ×2 =
16. 7 ÷100 =	6. 5 +14. 6 =	53. 2 −30. 4 =
5 ×350 =	760 ÷4 =	1. 716 ×100 =
17. 4 +2. 5 =	2. 86 ×100 =	24. 1 +30. 5 =
42. 3 −20. 9 =	8. 7 −6. 3 =	450 ÷5 =

B组 变式口算题

1. 下图中有(　　)个梯形，有(　　)个平行四边形。

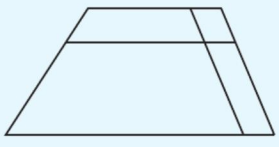

2. 小明在家练习硬笔书法时，写“我们爱科学我们爱科学……”依次写下去，那么第23个字应该是(　　)。

关注微信公众号“教辅资料站”获取更多学习资料

难易等级：

练习1 小数加法和减法

用时：____分____秒　错误：　个

A组 常规口算题

29 +4. 5 =	23 −4. 5 =	6. 9 −2. 3 =
45 −10. 4 =	6. 4 +16 =	7. 9 +6. 9 =
18. 9 +6. 4 =	43 −9. 6 =	53 −23. 6 =
9. 88 −3. 5 =	78. 9 −11. 1 =	13. 4 +11. 6 =
19. 8 +6. 5 =	2. 8 −1. 6 =	16. 8 −2. 6 =
32 −23. 9 =	14. 6 +6. 7 =	19 +102. 2 =
24 −11. 3 =	18 −7. 4 =	17 −13. 2 =
4. 5 −2. 3 =	8. 7 +3. 2 =	11. 92 +7. 5 =
12. 3 +0. 3 =	13. 6 −4. 9 =	27. 4 −13. 7 =
61 −60. 5 =	6 +3. 2 =	32. 1 −20. 1 =
25 −11. 7 =	35 −3. 5 =	25 −2. 9 =
113. 4 −13. 4 =	42 +7. 4 =	9. 1 +11. 45 =
11. 85 +9. 7 =	23. 3 +14. 4 =	51 −4. 9 =
41. 2 −25. 6 =	19. 3 +71. 9 =	6. 5 +9. 73 =
4. 2 −1. 7 =	19. 6 +5. 4 =	39. 3 +3. 9 =

B组 变式口算题

请用竖式计算下列算式。

19. 67 +20. 49 =　　5. 15 −1. 48 =　　8. 96 +12. 8 =　　17. 4 −6. 73 =

关注微信公众号“教辅资料站”获取更多学习资料

练习2　小数加法的简便计算

用时：____分____秒　错误：　个

A组　常规口算题

8.9 + 1.7 =	17.87 − 11.45 =	20.6 + 1.5 + 2.5 =
2.8 − 2.1 =	4.67 + 5.45 =	4.65 − (1.65 + 2.2) =
4.9 + 5.6 =	32.6 − 22.3 =	23.78 + 42 − 13.78 =
5.9 − 2.1 =	8.6 + 21.3 =	4.3 + 2.1 − 5.2 =
8.7 + 4.2 =	34.34 − 21.21 =	17.37 + 15.6 − 7.37 + 4.4 =
11.56 − 2.34 =	7.34 + 3.13 =	32.8 + 6.9 − 6.9 =
23.89 + 12.32 =	90.89 − 34.11 =	14.5 − (2.3 + 4) =
6.45 − 2.31 =	3.2 + 5.9 =	21 − 4.95 + 4.95 =
2.3 + 2.4 =	6.01 − 2.12 =	16.26 − 4.6 − 4.4 =
34.5 − 21.3 =	11.09 + 56.87 =	7.03 − 5.5 + 0.97 =
8.9 + 11.1 =	9.78 − 4.59 =	6.2 + 5.4 − 3.7 =
43.7 − 3.7 =	9.5 + 2.4 =	44.7 + 5.3 − 3 =
18.26 + 9.34 =	10.9 − 4.55 =	5.6 + 4.2 − 2.3 =
41.2 − 35.5 =	6.47 + 9.38 =	28.73 + 1.46 + 8.27 =
54.61 + 1.83 =	20.43 − 16.4 =	8.23 + 0.8 + 3.2 =
60 − 45.9 =	16.74 + 3.95 =	6.6 + 4.08 + 5.92 + 21.4 =

B组　变式口算题

下表是歌手比赛的得分表，请填空。

选手号	声乐得分(分)	器乐得分(分)	专业素养得分(分)	总分(分)
1号	8.95	7.15	0.98	
2号	8.84	7.44	0.87	
3号	8.9	7.32	0.88	

关注微信公众号“教辅资料站”获取更多学习资料

练习3 习题课

用时：___分___秒 错误：　个

A组 常规口算题

2.73 +1.3 =	3 −1.6 =	20 +1.67 +2.33 =
6 −2.5 =	0.73 +0.5 =	23.5 +11.2 +6.5 =
2.5 +2.5 =	12.5 −3.8 =	40 −31.6 −5.4 =
6.4 −3.6 =	60.56 −23.56 =	23.56 +2.2 −2.2 =
1.8 +4.9 =	12.45 +11.45 =	23.7 −13.7 +11.1 =
8.9 +4.7 =	7 +12.7 =	34.1 +18.9 −24.1 =
4.7 +6.9 =	9.78 −3.56 =	11.2 +8.8 −10 =
13.34 −8.98 =	11.65 +0.78 =	5.4 +1.2 −4.3 =
0.89 −0.67 =	13.3 +7.7 =	36.28 −(25.7 +6.28) =
6.78 +4.67 =	5.67 −0.67 =	89.8 −69.8 +12 =
11.34 −7.11 =	85.6 −20.7 =	14.9 +0.16 −4.9 +0.84 =
21.5 +6.7 =	2.78 +5.8 =	7.8 −(6.2 −4.4) =
25 −11.75 =	9.32 +8.32 =	3.9 +4.6 +6 =
13.11 −12.16 =	2.85 +2.11 =	7.89 +14.31 −21.2 =
4.86 −3.14 =	5.5 −4.31 =	4.6 +3.91 +5.4 +2.09 =
20.98 −5.49 =	3.96 +2.91 =	18.46 +12.34 −2.16 =

B组 变式口算题

1. 买一个日记本和一块橡皮擦一共用去10.3元，一个日记本6.82元，一块橡皮擦(　　)元。

2. 怎样简便怎样算。

17.8 −3.7 −6.3　　13.6 +2.82 +6.4 +1.18　　42.2 −(2.2 +0.98)

关注微信公众号“教辅资料站”获取更多学习资料

练习4　问题解决

用时：____分____秒　错误：　个

A组　常规口算题

46 −0. 8 =	30. 03 +57. 7 =	1. 1 +34. 9 +8. 9 =
16. 35 +6. 15 =	24 −14. 9 =	40 −31. 53 −5. 47 =
3 +28. 9 =	26. 71 −25. 5 =	5. 8 +9. 6 −4. 9 =
7. 64 −2. 34 =	18. 8 +0. 75 =	0. 96 +5. 43 −0. 5 =
31. 58 +14. 42 =	22 −10. 2 =	0. 87 +1. 48 +0. 52 +1. 13 =
77. 88 −55 =	18. 09 +0. 9 =	90 −60. 5 −29. 5 =
2. 1 +6. 76 =	78. 6 −23. 1 =	45. 49 +5. 1 −5. 49 =
35. 1 +95 =	88. 88 −60. 68 =	8. 61 −5. 5 +0. 69 =
31. 72 +4 =	8. 93 −6. 72 =	15. 4 +7. 2 +9. 6 =
25. 76 −3. 5 =	6. 4 +17. 09 =	12. 31 −9. 7 −0. 1 −1. 2 =
40 +2. 98 =	18. 2 −4. 05 =	13. 2 −4. 71 −2. 29 =
3. 41 +9. 78 =	2. 36 +7. 87 =	16. 82 −(3. 82 +4. 6) =
18. 7 −6. 5 =	11 −0. 77 =	0. 48 +1. 24 +0. 52 =
34. 9 +6. 76 =	24. 56 −16. 7 =	7. 82 −2. 6 +5 =
8. 09 −5. 44 =	17. 22 +5. 79 =	15. 5 −0. 79 −3. 21 =
14. 58 +9. 42 =	60. 9 −54. 55 =	14. 8 +18. 2 −4. 8 =

B组　变式口算题

1. 王阿姨卖菜，黄瓜卖了48. 6元，豆角卖了51. 4元，茄子卖了78. 3元，这三样菜一共卖了(　　)元。

2. 小红用20元买文具，买钢笔用去7. 6元，买文具盒用去9. 4元，还剩(　　)元。

3. 一个鸡蛋重0. 05 kg，比一个鸽子蛋重0. 03 kg，一个鸡蛋和一个鸽子蛋的总质量为(　　)kg。

4. 小明身高1. 38 m，他站在0. 56 m的凳子上，比爸爸高0. 14 m，爸爸身高(　　)m。

关注微信公众号“教辅资料站”获取更多学习资料

练习5 习题课

用时：___分___秒 错误：　个

A组 常规口算题

1 −0. 65 =	0. 7 +0. 23 =	50 −34. 16 −0. 84 =
0. 73 +0. 27 =	3 +4. 58 =	17. 5 +2. 2 −11. 3 =
5 −0. 42 =	4. 3 +2. 31 =	19. 1 −8. 1 +6. 73 =
6. 83 −1. 8 =	10 −3. 33 =	7. 74 +6. 6 +6. 26 =
1. 84 +2. 16 =	16. 09 −5. 07 =	4. 08 +5. 92 +21. 4 +6. 6 =
5. 73 +5. 73 =	31. 9 −11. 72 =	42. 24 +31. 9 −42. 24 =
54. 85 −12. 6 =	6. 8 +5. 75 =	25. 61 −1. 9 +4. 39 =
24. 3 −24 =	35 −10. 5 =	9. 5 +0. 11 −9. 5 +0. 11 =
8. 56 +0. 39 =	26. 35 +2. 7 =	15. 39 −8. 79 −6 =
2. 35 −0. 41 =	15. 81 +7. 1 =	5. 5 −(2. 5 −2) =
20. 2 +6. 83 =	2. 7 +4. 19 =	12. 58 −(7. 2 +2. 58) =
0. 98 +1. 67 =	6. 1 −4. 55 =	18. 36 −5. 4 −8. 36 =
14. 54 −6. 32 =	22. 4 +34. 56 =	62. 3 −(12. 3 +8. 7) =
23. 97 −13. 65 =	13. 9 −8. 6 =	17. 81 −9. 3 −5. 7 =
8. 54 +3. 24 =	40. 88 −24. 34 =	4. 8 −3. 62 −0. 38 +0. 2 =
39. 8 −7. 65 =	3. 86 +5. 42 =	70 −21. 86 −12. 14 =

B组 变式口算题

1. 快乐跑道。

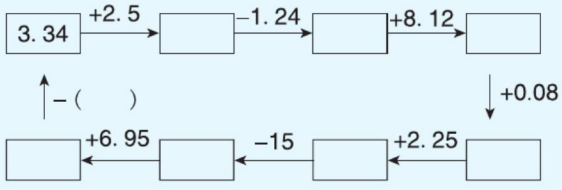

2. 算一算，比一比。

3. 4 +5. 8 ◯ 9. 8 −1. 2　　6. 74 −5. 52 ◯ 1. 1 +0. 45

2. 16 −1. 12 ◯ 3 −2. 2　　6. 12 +1. 13 ◯ 5. 46 +2. 23

关注微信公众号“教辅资料站”获取更多学习资料

第七单元口算能力测试

用时：____分____秒　错误：　个

A组 常规口算题

30 +8. 2 =	68 −6. 8 =	4. 5 +6. 4 +5. 5 =
23 −6. 2 =	12 +2. 3 =	9. 8 −6. 2 +2. 1 =
12. 8 +0. 2 =	20 −9. 07 =	2. 3 +2. 1 −2. 1 =
12. 56 −5. 5 =	6. 9 +1. 1 =	6. 56 −2. 13 +0. 44 =
13. 78 +11. 22 =	32. 11 +22. 22 =	4. 12 +5. 1 −2. 2 =
10 −8. 8 =	90. 11 −21. 1 =	2. 67 −2. 3 +1. 1 =
20 +2. 2 =	90. 4 +6. 6 =	7. 65 +0. 2 −6. 65 =
11. 1 −10. 1 =	43. 21 −3. 21 =	0. 08 +0. 45 −0. 08 =
23. 23 +11. 77 =	0. 09 +2. 21 =	2. 3 −1. 1 +4. 2 =
12. 23 −0. 2 =	4. 5 −3. 5 =	7. 89 +2. 1 −2. 89 =
5. 09 +0. 11 =	3. 21 +3. 8 =	4. 2 +1. 1 +2. 8 +2. 9 =
1. 12 −0. 12 =	12. 67 −8. 9 =	6. 8 +2. 1 +4. 2 +3. 9 =
7. 88 +4. 52 =	7. 1 −2. 33 =	17. 6 +8. 24 +4. 4 =
15. 3 −4. 07 =	16. 57 +8. 96 =	78 −9. 62 −8. 38 =
19. 5 +24. 7 =	90. 87 −45. 63 =	17. 5 −9. 2 +7. 8 =

B组 变式口算题

1. 我是小小会计员。

商品	数量	单价(元)	金额(元)
文具盒	1	5. 50	5. 50
酱油	1	1. 20	1. 20
牙膏	1	6. 90	6. 90
应收金额			
现金			20. 00
交易找零			

2. 小妮家房屋总面积是 92. 5 m^2，两个卧室的面积是 38. 6 m^2，卫生间、厨房、阳台的面积和是 21. 4 m^2，其余的是客厅，客厅的面积是(　　)m^2。

关注微信公众号“教辅资料站”获取更多学习资料

难易等级：

练习1 平均数（一）

用时：___分___秒　错误：　个

A组 常规口算题

124 ÷4 =	630 ÷63 =	108 ÷3 =
631 +249 =	132 ÷6 =	420 ÷70 =
50 ×71 =	123 ×3 =	79 +120 =
560 +198 =	9600 ÷600 =	542 ÷2 =
7 ×211 =	103 ×50 =	162 ×2 =
840 ÷4 =	360 ÷20 =	4 ×400 =
1500 ÷20 =	56 +279 =	80 ×210 =
500 ×20 =	840 ÷70 =	960 ÷6 =
645 +76 =	680 ÷40 =	242 ×5 =
200 ÷20 =	202 ×50 =	1800 ÷30 =
440 ÷4 =	24 ×400 =	639 +214 =
214 ×2 =	719 −627 =	650 ÷5 =
80 ×51 =	840 +196 =	864 −149 =
380 ÷19 =	2300 ÷20 =	530 ×2 =
140 ×3 =	60 ×350 =	630 ÷5 =

B组 变式口算题

1. 填表。（求出表内每一行数的平均数）

100	140	190	110	120	180	
22	36	54	84	60	140	
39	37	31	28	22	23	

2. 明辨是非。（对的打“√”，错的打“×”）

（1）班级订做校服可以按照班级学生的平均身高来订做。（　　）

（2）虽然四年级（2）班学生的平均视力是4.95，但也不能说这个班级的学生就没有近视的。（　　）

关注微信公众号“教辅资料站”获取更多学习资料

练习2　平均数（二）

用时：____分____秒　错误：　个

A组　常规口算题

316 ×2 =	252 +438 =	360 ÷5 =
300 ÷20 =	660 ×5 =	3000 ÷25 =
220 ×30 =	189 ÷21 =	90 ÷30 =
560 +270 =	160 ÷80 =	144 −122 =
400 ÷20 =	710 −290 =	48 ÷4 =
697 +112 =	132 ÷22 =	339 ÷3 =
360 ÷20 =	641 +271 =	300 ÷60 =
65 +74 =	330 ÷30 =	493 +220 =
260 ÷13 =	179 −62 =	610 ×20 =
600 ×6 =	126 ÷3 =	560 ÷70 =
126 ×3 =	120 ÷40 =	990 −127 =
420 ×30 =	105 +60 =	360 ÷12 =
540 −217 =	121 ×3 =	4800 ÷120 =
4 ×502 =	720 ÷24 =	303 +407 =
140 ×40 =	228 ÷4 =	90 ×600 =
1400 ÷70 =	255 ÷5 =	552 ÷6 =

B组　变式口算题

1. 四(1)班8名同学的体重经过测量后得知，他们的平均体重是32 kg，他们的总体重是(　　)kg。

2. 爷爷每天坚持上山锻炼，上山用了40分钟，走了3000 m，且到达山顶，下山用了20分钟，爷爷上山和下山的平均速度是每分钟(　　)m。

3. 某希望小学四年级(1)班和(2)班各有学生21名，四年级(3)班和(4)班各有学生29名，四年级平均每班有学生(　　)名。

关注微信公众号“教辅资料站”获取更多学习资料

练习3 复式统计表

用时：___分___秒 错误：　个

A组 常规口算题

19 ×300 =	208 ÷52 =	70 ×700 =
100 ÷5 =	200 ×70 =	190 +800 =
241 ×30 =	241 +421 =	279 +330 =
493 −212 =	30 ×180 =	40 ×120 =
602 ×2 =	60 ×212 =	710 −260 =
342 ×20 =	18 ×300 =	900 ÷45 =
420 ÷30 =	200 ÷40 =	500 ×25 =
707 ÷7 =	869 −144 =	510 ÷30 =
162 −58 =	960 ÷16 =	420 ×7 =
50 ×400 =	549 ÷9 =	8 ×401 =
360 ÷60 =	90 +640 =	570 ÷30 =
270 +166 =	300 ÷50 =	24 ×30 =
43 ×300 =	163 ×2 =	480 ÷16 =
210 ×50 =	500 ×90 =	62 ×4 =
800 ÷50 =	863 +127 =	630 ÷7 =
135 ÷3 =	70 ×410 =	14 ×800 =

B组 变式口算题

下面是某校四年级(1)班的同学为灾区捐款的统计情况。(单位:元)

男同学捐款金额：

50　51　87　100　99　70　104　68

120　101　65　82　107　71　130

女同学捐款金额：

95　50　35　80　51　71　85　70

100　130　99　75　90　80　125

1. 完成统计表。

金额 / 人数 / 性别	50 元及 50 元以下	51 元 ~ 70 元	71 元 ~ 99 元	100 元及 100 元以上
男				
女				

2. 男同学捐款在(　　)范围内的人数最多，女同学捐款在(　　)范围内的人数最多。

关注微信公众号“教辅资料站”获取更多学习资料

练习4　复式条形统计图

用时：____分____秒　错误：　个

A组　常规口算题

34 ×2 =	255 ÷5 =	612 +340 =
700 −543 =	152 ×4 =	2103 ÷3 =
1604 ÷4 =	342 −121 =	74 ×3 =
780 +700 =	248 ÷4 =	875 −320 =
5 ×120 =	470 +90 =	5260 ÷20 =
440 ÷40 =	243 ×2 =	118 +442 =
900 −630 =	7240 ÷40 =	650 ×6 =
99 +57 =	1000 −642 =	696 ÷3 =
85 ×4 =	188 +780 =	573 −421 =
448 ÷2 =	459 ÷3 =	3020 −1200 =
8 ×125 =	460 ×20 =	3000 ÷200 =
980 −234 =	738 ÷6 =	140 ×50 =

B组　变式口算题

下面是希望小学四年级学生最喜欢的电视节目情况统计表：

性别	体育节目	综艺节目	电视剧	动画片
男生	95	50	50	80
女生	30	70	80	80

根据上表中的数据完成下面的统计图。

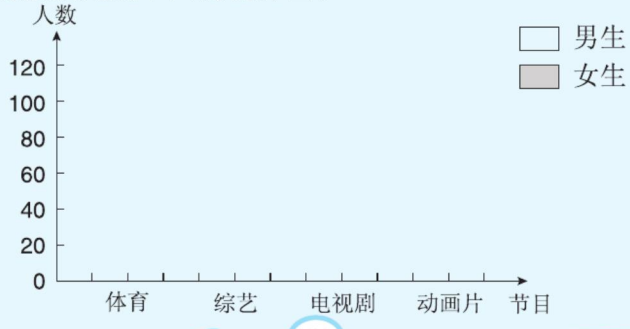

关注微信公众号“教辅资料站”获取更多学习资料

第八单元口算能力测试

用时：___分___秒 错误：　个

A组 常规口算题

246 ÷3 =	3 ×62 =	88 +44 =
897 −460 =	140 ÷20 =	155 ×2 =
8 ×12 =	284 +422 =	300 ÷20 =
186 +474 =	600 −390 =	808 ×8 =
6000 ÷500 =	524 ×5 =	300 −199 =
590 ×6 =	3600 ÷600 =	278 +150 =
710 −660 =	397 +43 =	5000 ÷100 =
1200 ÷60 =	4 ×508 =	571 −180 =
154 ×0 =	850 ÷50 =	340 ×3 =
729 ÷9 =	128 +362 =	496 −154 =
853 −240 =	640 ÷20 =	39 ×3 =
205 ×9 =	480 −480 =	69 +23 =

B组 变式口算题

下面是四年级(1)班9月～12月回收垃圾统计表：

月份	9	10	11	12
废纸(kg)	40	35	55	30
白色垃圾(kg)	15	20	30	25

根据统计表中的数据完成统计图。

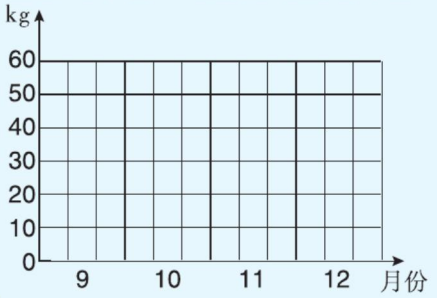

1.(　　)月回收的废纸最多,(　　)月回收的白色垃圾最多。

2.平均每月回收(　　)kg的废纸。

关注微信公众号“教辅资料站”获取更多学习资料

第九单元 总复习

练习1 小 数

用时：____分____秒　错误：　个

A组 常规口算题

4.5 + 2.3 =	6.6 × 100 =	23.4 × 100 =
8.9 + 4.5 =	7.7 ÷ 100 =	12.1 ÷ 10 =
26.5 + 3.4 =	12.8 × 10 =	23.41 × 1000 =
8.3 − 2.9 =	0.9 × 1000 =	1.3 ÷ 100 =
9.6 − 1.2 =	78.4 ÷ 1000 =	12.23 × 1000 =
2.2 − 1.7 =	53.2 ÷ 100 =	4.13 ÷ 10 =
3.2 + 3.3 =	34.1 ÷ 10 =	6.27 × 100 =
4.8 − 3.6 =	12.7 × 100 =	96 ÷ 100 =
5.2 − 3.2 =	41.2 ÷ 100 =	0.89 × 1000 =
9.2 + 7.1 =	0.043 × 1000 =	3.24 ÷ 100 =
16.8 + 2.1 =	10.1 ÷ 1000 =	0.06 × 10 =
5.3 − 3.4 =	3.204 × 100 =	11.23 ÷ 100 =
4.5 + 3.2 =	56.1 ÷ 10 =	2.03 × 1000 =
6.9 − 4.4 =	90 ÷ 1000 =	97.6 ÷ 100 =

B组 变式口算题

1. 在◯里填上“ > ”“ < ”或“ = ”。

0.340 ◯ 0.304　　7.85 ◯ 7.850　　2.34 ÷ 10 ◯ 23.4 ÷ 100

2 m 62 cm ◯ 2.63 m　　9元7分 ◯ 9.7角　　1.5 × 100 ◯ 15 ÷ 1000

2. 按要求填空。

2809800000 = (　　)亿≈(　　)亿(保留一位小数)

308789000 = (　　)亿≈(　　)亿(保留两位小数)

88829 = (　　)万≈(　　)万(保留两位小数)

关注微信公众号“教辅资料站”获取更多学习资料

练习2 四则运算和运算律（一）

用时：___分___秒 错误：　个

A组 常规口算题

230 +340 =	423 ×3 =	(320 +120) ÷40 =
40 ×410 =	7. 7 +6. 6 =	(23 −12) ×6 =
540 ÷18 =	8400 ÷20 =	89 ×(88 +12) =
124 ×3 =	340 ÷20 =	(890 −690) ×2 =
786 +221 =	8. 28 +1. 1 =	1. 91 −0. 27 −0. 73 =
5. 72 +1. 6 =	100 ×5. 55 =	15 ×(8 ×6) =
6. 2 −4. 9 =	23 ×4 =	0. 15 +0. 56 +0. 85 =
8. 8 ×100 =	930 ×30 =	123 ×18 −23 ×18 =
2 ×510 =	460 +721 =	25 ×(8 +40) =
134 −78 =	859 −246 =	38. 96 −(6. 2 +8. 96) =
101 ×8 =	129 ÷3 =	12 ×(5 +4) −20 =
7. 96 −2. 8 =	12. 9 −8. 71 =	100 ×(34 −24) ÷5 =
3. 6 +7. 8 =	5 −0. 6 =	21 ×(600 ÷20) =
15. 7 −3. 4 =	3. 84 +0. 07 =	7. 26 +8. 5 −6. 5 =
820 ×40 =	760 +210 =	8 ×22 ×125 =
960 ÷30 =	630 ÷90 =	720 ÷90 +630 ÷7 =

B组 变式口算题

填空，夺红旗。

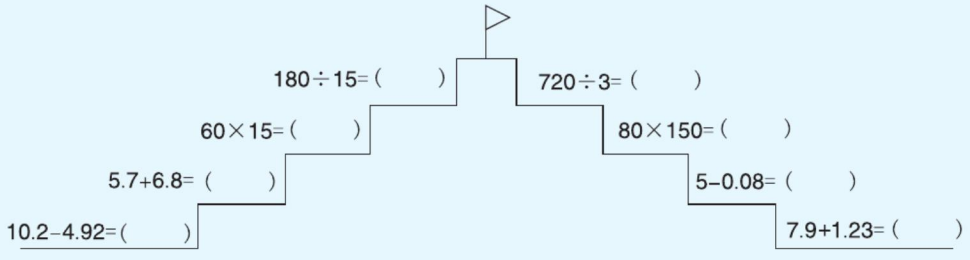

关注微信公众号“教辅资料站”获取更多学习资料

练习3　四则运算和运算律（二）

用时：____分____秒　错误：　个

A组　常规口算题

5. 1 +2. 9 =	12. 9 −2. 8 =	610 −(186 +134) =
328 −177 =	3600 ÷600 =	0. 85 +7. 26 +0. 15 =
30 ×240 =	568 ÷8 =	27. 26 −(7. 26 +8. 5) =
966 ÷6 =	410 ×60 =	(125 +20) ×8 =
12. 62 −7. 8 =	400 −346 =	500 ÷5 +125 ×4 =
5700 ÷30 =	700 ×12 =	67 ×2 ×50 =
620 +860 =	2. 44 +5. 46 =	8. 45 −3. 46 +0. 55 =
0. 49 −0. 39 =	15. 2 −6. 8 =	60 ×(2400 ÷80) =
457 +160 =	450 ×40 =	(120 −30) ×(80 −60) =
7. 9 +8. 8 =	3. 3 +9. 92 =	4. 09 −2. 1 +0. 91 =
500 ÷2 =	650 ×8 =	(311 +529) ÷40 =
9 ×103 =	813 −640 =	736 −8 ×90 ÷20 =
180 ×50 =	0. 6 +0. 86 =	8 ×(25 ×125) =
5. 16 +11. 13 =	300 ×35 =	76 ×24 +24 ×24 =
580 ÷20 =	200 ÷40 =	4. 69 +5 −1. 69 =
1 −0. 72 =	4. 08 −2. 6 =	26 −(4. 27 +5. 73) =

B组　变式口算题

1. 比较大小。

310 +250 ◯ 660 −130　　7. 65 +2. 36 ◯ 10. 1

0. 935 ×100 ◯ 93. 5　　16. 9 +33. 1 ◯ 800 ÷20

67 ×101 −67 ◯ 66 ×100　　5. 43 +0. 7 ◯ 8. 39 −1. 37

2. 下面各题怎样简便就怎样算。

(105 −98) ×(25 +73)　　7. 6 +8. 76 +1. 24 +2. 4

关注微信公众号“教辅资料站”获取更多学习资料

练习4 四则运算和运算律（三）

用时：___分___秒 错误：　个

A组 常规口算题

3 +0. 67 =	1. 6 +8. 23 =	125 ×9 ×8 =
11. 1 −9. 9 =	0. 53 ×1000 =	2. 53 +6. 63 +5. 37 =
8100 ÷900 =	720 ÷36 =	9. 26 −3. 52 −2. 48 =
256 +144 =	5. 4 −3. 2 =	25 ×(7 ×4) =
50 ×210 =	600 ×14 =	(50 +25) ×6 =
10. 2 +0. 8 =	729 +35 =	(707 +13) ÷(5 ×16) =
132 ×4 =	8. 2 −8. 02 =	6. 08 −4. 5 +0. 92 =
0. 1 −0. 01 =	180 ÷20 =	1000 ÷200 ×5 =
550 ÷11 =	986 −259 =	26. 42 −(5. 3 +6. 42) =
3. 09 +6. 54 =	405 ×4 =	78 ×99 +78 =
670 +147 =	0. 19 +0. 84 =	500 ×23 ×4 =
18 −0. 72 =	242 ×3 =	85 ×92 +8 ×85 =
560 ÷80 =	37. 8 +16. 8 =	350 ÷(65 −15) =
13. 53 +9. 88 =	54. 14 +6. 36 =	10. 74 −(3. 74 +4. 5) =
4 ×213 =	724 ÷2 =	0. 58 +3. 6 +2. 4 +1. 42 =
80 ×220 =	27. 42 −18. 22 =	550 −660 ÷20 ×0 =

B组 变式口算题

1. 学校食堂买大小两种包装的面粉各13袋，大袋每袋75 kg，小袋每袋25 kg，食堂共买面粉(　　)kg。
2. 5头奶牛12天吃饲料720 kg，平均每头奶牛每天吃饲料(　　)kg。
3. 一根绳长100 m，第一次剪去26. 83 m，第二次剪去33. 17 m，第三次剪去20. 4 m，还剩(　　)m。
4. A，B两地相距380 km，甲、乙两车同时分别从这两地相向开出，甲车每小时行驶40 km，乙车每小时行驶50 km，经过4小时后，两车还相距(　　)km。

关注微信公众号“教辅资料站”获取更多学习资料

练习5　图形的认识（一）

用时：____分____秒　错误：　个

A组　常规口算题

51 ×300 =	820 ×20 =	4. 5 +22. 62 =
4. 3 +1. 7 =	60 ×410 =	6. 9 +2. 4 =
6. 21 −5. 9 =	678 ÷2 =	336 −196 =
0. 027 ×1000 =	11. 27 ÷100 =	130 ×50 =
8. 9 −2. 6 =	9. 46 −2. 5 =	4. 32 +2. 09 =
9. 8 −2. 43 =	5. 27 +1. 19 =	444 ÷4 =
7. 21 −2. 11 =	10. 65 +11. 26 =	250 ÷50 =
263 +79 =	238 +167 =	70 ×130 =
320 ÷40 =	611 −105 =	9. 127 ×1000 =
6. 27 ×100 =	38 ×200 =	536 +194 =
680 ÷17 =	660 ÷20 =	7. 42 −6. 1 =
8. 9 +1. 37 =	205 ×4 =	880 −60 =
4. 7 +5. 6 =	338 ÷2 =	8. 8 −4. 9 =
655 ÷5 =	5. 24 +1. 87 =	7. 24 −1. 5 =
986 −264 =	866 ÷2 =	8. 12 +2. 43 =
40 ×140 =	880 ÷11 =	999 ÷9 =

B组　变式口算题

连一连。

三个角相等	锐角三角形
没有直角和钝角	直角三角形
最大的角是直角	等边三角形
有一个角是直角，且有两条边相等	等腰直角三角形

关注微信公众号“教辅资料站”获取更多学习资料

练习6 图形的认识（二）

用时：___分___秒 错误：　个

A组 常规口算题

18.8 − 12 =	581 + 219 =	5.27 + 11.02 =
70 × 250 =	8.69 − 4.32 =	3.04 + 6.59 =
26 + 410 =	13 × 800 =	567 − 234 =
40 × 202 =	14 − 8.8 =	118 × 5 =
0.87 − 0.14 =	19.45 + 2.5 =	234 × 4 =
110 ÷ 5 =	180 ÷ 60 =	5.6 − 1.29 =
12.9 − 1.49 =	40.66 + 6.55 =	527 + 619 =
0.39 + 0.67 =	870 ÷ 3 =	7 + 0.71 =
13 − 0.13 =	960 ÷ 60 =	340 × 40 =
320 × 80 =	48.4 − 38.9 =	225 ÷ 5 =
31.8 + 44 =	210 × 70 =	870 ÷ 29 =
243 × 2 =	50 − 12.75 =	12.34 + 13.21 =
270 − 136 =	409 + 321 =	486 − 155 =
31.8 − 21.3 =	23.5 − 3.1 =	18 − 0.92 =
720 ÷ 90 =	174 × 2 =	930 ÷ 3 =
1.8 ÷ 10 =	325 − 195 =	750 ÷ 25 =

B组 变式口算题

1. 平行四边形的周长是 70 cm，一条边的长是 15 cm，另外三条边的长分别是（　　）cm、（　　）cm、（　　）cm。
2. 等腰梯形的周长为 38 cm，上底长 9 cm，比下底短 4 cm，它的一条腰长为（　　）cm。
3. 按要求在下面的图中画一条直线。

（1）分成两个梯形。



（2）分成一个平行四边形和一个三角形。



关注微信公众号“教辅资料站”获取更多学习资料

练习7　图形的认识（三）

用时：____分____秒　错误：　个

A组　常规口算题

567 −342 =	7. 8 +11. 2 =	56. 4 −32. 1 +9. 3 =
6. 76 −3. 12 =	420 ÷3 =	0. 69 +0. 33 +0. 67 +0. 31 =
487 +120 =	8. 56 −3. 54 =	190 +280 ÷40 =
630 ÷30 =	810 ÷27 =	88 ×145 +55 ×88 =
900 −431 =	0. 99 +1. 66 =	150 ×6 +60 =
70 ×210 =	10 −7. 13 =	35 ×(200 +1) =
250 ×8 =	820 ÷4 =	125 ×(16 ×8) =
3. 17 +6. 9 =	876 −465 =	15. 3 −5. 3 +8. 91 =
0. 07 ×100 =	150 ×5 =	900 ×2 ÷60 =
560 ÷80 =	20 −10. 9 =	16. 48 +6. 3 +4. 52 =
42 ×300 =	600 ÷15 =	5. 17 −2. 4 −1. 17 =
0. 79 +0. 84 =	141 ×6 =	520 ÷4 +30 =
702 ×4 =	458 −231 =	67 ×6 ×50 =
663 ÷3 =	510 ÷17 =	23 +4. 4 +5. 6 =
21. 56 −12. 45 =	8. 85 −4. 9 =	43 +43 ×99 =
60 ×25 =	300 ×14 =	15. 63 −(2. 63 +6) =

B组　变式口算题

1. 用数对表示点 A、B 的位置。

2. 点 A 先向右平移 4 格，再向上平移 2 格，用数对表示出它平移后所在的位置。

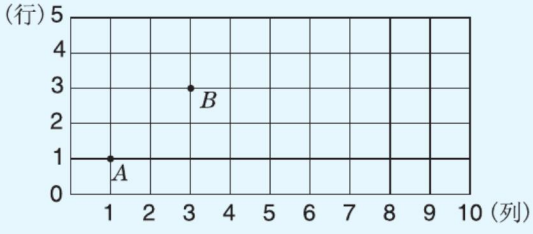

3. 点 B 是由某个位置先向左平移 4 格，再向上平移 2 格得到的，它原来应该在什么位置？（用数对表示）

关注微信公众号“教辅资料站”获取更多学习资料

练习8 平均数

用时：___分___秒 错误：　个

A组 常规口算题

6 ×130 =	640 ÷16 =	754 +143 =
812 −540 =	145 ×4 =	824 ÷4 =
637 ÷7 =	58 ×4 =	8 ×105 =
469 +790 =	700 −560 =	319 −130 =
111 ×9 =	840 ÷40 =	6 ×71 =
429 −227 =	185 +315 =	7200 ÷300 =
440 ÷20 =	699 −455 =	301 +287 =
6 ×150 =	84 ×4 =	473 −120 =
480 +408 =	2000 ÷100 =	280 ×50 =
313 ×3 =	8 ×28 =	168 ÷8 =
500 −311 =	298 +120 =	7 ×450 =
7000 ÷35 =	704 −550 =	519 +409 =
120 +224 =	321 +332 =	134 +211 =

B组 变式口算题

下面是利华小学四年级(1)班女生50米赛跑的成绩(单位:秒),请你完成下面的统计图表。

9.1　10.3　8.9　8.5　9.6　9.1　9.2　8.8　9.3
8.7　9.0　9.1　9.4　8.9　10　8.6　9.3　8.5

等级	优秀	良好	及格	不及格
成绩(秒)	8.8及8.8以下	8.9～9.4	9.5～10.0	10.0以上
人数(人)				

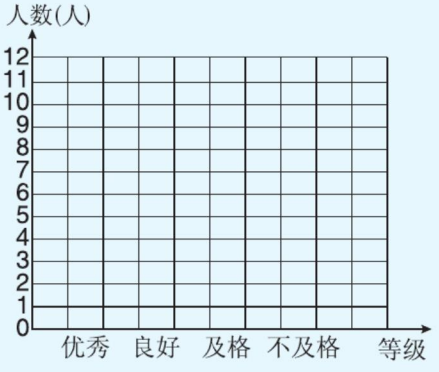

关注微信公众号“教辅资料站”获取更多学习资料

口算能力期末综合测评（一）

用时：___分___秒　错误：　个

16 ×30 =	480 ÷24 =	1880 −541 −659 =
520 ÷26 =	750 −235 =	48 ×4 ×5 =
856 −713 =	130 ×30 =	350 ÷(75 −25) =
9100 ÷700 =	242 ×20 =	29 ×(37 +13) =
225 ×4 =	660 ÷20 =	62 ×8 −400 =
420 ÷30 =	59 ×20 =	103 ×40 −3 ×40 =
36 ×30 =	860 ÷43 =	376 +280 ÷20 =
387 −305 =	155 ÷31 =	17 ×16 ×25 =
49 ×50 =	217 −152 =	6 ×28 ×5 =
512 +88 =	129 ×2 =	173 ×26 +27 ×26 =
360 ÷20 =	700 ×9 =	113 ×50 −63 ×50 =
660 ÷11 =	675 −330 =	350 ÷(5 ×7) =
220 ×7 =	511 +78 =	270 ÷9 +20 ×50 =
809 −300 =	315 ÷15 =	125 ×15 ×8 ×4 =
456 +144 =	900 −630 =	67 ×99 +67 =
960 ÷32 =	280 +76 =	20 ×6 −96 ÷4 =
174 ÷6 =	80 ×70 =	(200 +4) ×25 =
25 ×18 =	148 ÷2 =	(120 −30 ×2) ÷4 =
154 −136 =	316 +104 =	11 ×80 ×5 =
710 ÷71 =	18 ×60 =	349 +149 +51 =
124 +392 =	125 ×24 =	3900 ÷13 ÷3 =
960 ÷80 =	480 ÷30 =	(40 +2) ×25 =
450 ×20 =	810 ÷27 =	(600 −120) ÷(40 +8) =
52 ÷26 =	490 ×3 =	650 −(70 ×5 −200) =

关注微信公众号“教辅资料站”获取更多学习资料

口算能力期末综合测评（二）

用时：___分___秒 错误：　个

6. 7 +9. 9 =	18. 78 −6. 54 =	56. 09 −12. 77 −11. 23 =
40 −38. 5 =	4. 1 +17. 71 =	0. 27 +0. 76 +0. 73 +0. 24 =
15. 64 +2. 9 =	7. 76 −4. 43 =	18. 79 −(4. 3 +7. 79) =
8. 7 −2. 1 =	6. 34 +10 =	55. 43 −22. 34 −8. 66 =
5. 08 +3. 9 =	21. 8 −13. 8 =	41. 9 −(23 +1. 9) =
0. 08 +0. 8 =	52. 6 +14. 4 =	100 −43. 78 −7. 22 =
9. 09 −4. 04 =	8. 17 +3. 9 =	18. 4 +7. 3 +1. 6 =
68. 8 −54. 7 =	45 +4. 5 =	10. 35 +10. 55 +0. 1 =
3. 38 −1. 3 =	7. 8 +4 =	0. 54 −0. 49 +0. 46 =
14 −2. 2 =	52. 1 +1. 6 =	33. 5 −(4 +3. 5) =
6. 9 +0. 9 =	6. 3 −3. 3 =	7. 08 +5. 9 +1. 92 =
41. 8 −1. 2 =	4. 9 +6. 5 =	29. 58 −13. 6 −11. 4 =
0. 73 +0. 37 =	11. 5 −6. 1 =	18. 88 −(10 +2. 88) =
2. 38 −1. 25 =	5. 75 +5 =	3. 38 +2. 44 +1. 56 +0. 62 =
8 −0. 09 =	7. 77 +7. 1 =	90 −36. 7 −23. 3 =
0. 66 +0. 55 =	8. 01 −6 =	45. 3 +5. 7 +4. 7 =
11 −1. 1 =	17. 71 −4. 41 =	50. 79 +4. 31 −5. 79 =
6. 16 +8. 8 =	20 +0. 2 =	47. 4 −(3. 6 +7. 4) =
72. 83 −31. 52 =	0. 65 +6. 55 =	16 −0. 62 −3. 38 =
0. 19 +19 =	30. 8 −9. 4 =	5. 55 +7. 14 +9. 45 =
40. 84 −10. 33 =	7. 87 +8. 13 =	6. 45 −(2. 3 +2. 45) =
18. 2 +32. 04 =	13. 45 +9. 86 =	0. 68 +2. 28 +5. 72 =
20 −19. 3 =	14. 65 −8. 65 =	8. 94 +3. 06 −10 =
12. 49 −6. 18 =	3. 6 +0. 67 =	1. 85 −0. 02 −0. 08 =

关注微信公众号“教辅资料站”获取更多学习资料

参考答案

第一单元

练习1（第1页）

A组

5	211	484
5600	295	25
1244	10100	300
53	30	0
70	39	59
19200	4600	212
492	2560	370
12000	14	40
16	526	440
204	363	10
1170	70	30
6800	25	3960
12	699	400
2711	3	64
26160	38	488
142	440	2440

B组

1. × 改正：
$600+400\div25-40$
$=600+16-40$
$=616-40$
$=576$
× 改正：
$51\times(1600\div40-20)$
$=51\times(40-20)$
$=51\times20$
$=1020$

2. (1)$(90-38)\times2$ (√)
(2)$50+16+80\div4$ (√)
(3)$600-432\div(6\times9)$ (√)

练习2（第2页）

A组

36	1424	7
120	622	10200
35700	200	12
300	40160	520
11	930	146
120	51	190
116	120	600
7600	39	720
36000	765	205
383	5100	4
48	30000	1600
648	140	6
530	41	40
5508	356	896
3480	4	264
142	4200	4300

B组

1. (1)√ (2)×
(3)×

2. $190-32\times5+47$
$=190-160+47$
$=30+47$
$=77$
$356-96\div(46-38)$
$=356-96\div8$
$=356-12$
$=344$
$450\div(150+50\times6)$
$=450\div(150+300)$
$=450\div450$
$=1$

练习3（第3页）

A组

204	1651	10600
448	1120	1000
630	33	440
35200	407	10
22	4180	0
107	7280	48
2400	20	5
107	672	3
644	91	407
4832	800	640
317	40	4
177	22	21040
30600	31	14
944	1320	64
175	725	60
78	1345	2

B组

1. 80 16 1280
$(48+32)\times(64\div4)$
$=1280$

2. 96 6 150
$25\times[(163-67)\div16]=150$

第一单元口算能力测试（第4页）

A组

24	50	300
490	1200	2600
558	270	79
62	582	1
130	3	290
335	200	120
40	70	123
870	17000	4738
5	20	11
20	165	20
3400	540	50
200	1860	0
42	152	7
565	57400	30
8700	1970	19500
183	40	800

B组

1. (1)× − ×
(2)÷ × ÷
(3)÷ + ÷
(4)× ÷ +
（除(3)题外，其余答案不唯一）

2. 4400 5000

第二单元

练习1（第5页）

A组

10000	856	125
200	20	28
928	19200	720
45	80	200
6480	32800	43
16	520	40
2040	60	2500
20800	1290	20
1806	12400	310
40	90	645
30	2	40
592	791	520
720	98	3900
4	30	148
843	7200	20
123	30	31

B组

4820 50 12600 90
10 80 140 20

练习2（第6页）

A组

280	10200	800
412	153	3000
369	8040	1400
4100	105	600
6060	560	310
7200	490	560
3900	25250	7290
1920	18900	1800
2135	3050	440
1760	2595	8100
7520	49070	63000
692	16000	540
4250	5400	1320
1960	21700	630
37800	628	1700
942	7200	810

B组

1. a 4 25 b 342
8 125 21

2. 略。

练习3（第7页）

A组

12600	651	7000
292	420	3600
1050	872	1400
416	864	3800
15630	30300	10400
1648	9000	100000
1260	897	3400
16000	1209	630
15000	1340	340
22200	1980	3000
24600	2380	2200
101	6000	5000
460	747	3600
15600	2100	9800
500	242	8600
100	4270	960

B组

1.
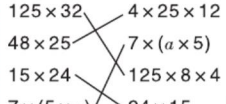

请沿此虚线裁剪下使用

关注微信公众号“教辅资料站”获取更多学习资料

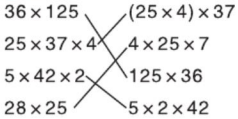

2. 320

练习 4（第 8 页）

A 组

240	847	5200
1539	12500	450
4300	48000	13000
24900	560	4300
843	6120	330
528	7290	130
2550	9600	3500
4620	2150	1620
54000	1144	2700
3240	468	1600
536	9680	9000
15000	4206	600
8500	10500	8000
888	846	260
42060	20000	8000
2080	650	11200

B 组

1. > = < >

2. 700 3. 8400

练习 5（第 9 页）

A 组

9900	1263	2550
900	5060	2550
1480	64000	180
24030	2200	180
840	6300	400
2610	160000	400
5400	20250	2200
480	999	2200
400	3900	2000
2590	1020	2000
1840	8080	950
9800	2340	950
640	32000	900
2940	3246	900
18120	10200	1632
896	3680	1632

B 组

1. 38 25 23 27 7
73 10 42 58 68

2. (1)√ (2)×

练习 6（第 10 页）

A 组

85	3800	8500
36090	3240	4800
1800	3300	2288
880	2763	4500
1266	8800	6138
3066	8800	1500
2440	2800	350
459	12080	8888
9500	1272	6000
9600	2400	1480
5680	6400	1600
108	640	2900
730	15300	9000
5800	252	4500
18210	2400	1620
492	6270	6400

B 组

1. 100 3 100 2 100
29 105 100 63 1
63

2. 1760

练习 7（第 11 页）

A 组

16000	21000	3000
12	1002	272
142	11	700
4240	61	12500
16	20	9
2177	13200	414
515	519	1890
635	826	609
37500	37	1200
7200	20	300
4000	1180	620
16200	4914	163
41	18	2800
12	92	630
432	800	2
245	11	140

B 组

1. 20 2. 80 3. 25

练习 8（第 12 页）

A 组

668	20	2600
6780	72	903
14	450	1200
8	9600	9200
42070	8	10
12000	130	11000
903	39	20
1050	3708	406
40	29	600
550	660	148
30400	6400	1050
23	655	4040
1355	674	7878
10800	3870	1350
4340	5	263
25	12	5

B 组

1. 30 2. 755 3. 5

练习 9（第 13 页）

A 组

20	15400	9000
220	741	6500
568	101	1500
21	35	4600
687	2808	887
30000	3440	15
8	3350	79
60	11700	1890
9000	5	2727
614	11	60000
1505	21050	5600
1550	508	70
1088	24	3000
8400	56000	6
6	2160	176
8400	482	1200

B 组

1. 650 2. 20 3. 22

练习 10（第 14 页）

A 组

624	984	4000
303	20	104
324	7	60
1500	132	5600
36000	6120	17600
32	21300	754
24800	50	960
121	19000	1160
1656	5406	1720
4300	20	16000
7	20	2
900	726	6700
5607	610	5100
5	20	267
7800	1570	1360
32000	8	9

B 组

1. × 2. × 3. √
4. √ 5. ×

第二单元口算能力测试（第 15 页）

A 组

10	12800	240
322	6	800
48000	5400	10
12800	72270	120
1302	8	1100
140	3220	10000
17	230	170
5400	172	1750
20000	6800	80
1746	9	4000
65	742	1000
4340	441	1
8100	323	3570
870	14	20
20	35050	4500
14000	666	120

B 组

1. ① ④ ②③

2. 880

第三单元

练习 1（第 16 页）

A 组

324	30	19200
3300	30	496
42000	803	742
358	1664	118
1065	6390	966
4800	12	251
8	642	18460
1302	32000	843
688	8	105
35	112	43
5100	5600	5280

请沿此虚线裁剪下使用

关注微信公众号“教辅资料站”获取更多学习资料

702	880	26400
30	6	24
3900	5800	634
5	485	4
3400	17	972

B组

略。

练习2（第17页）

A组

1620	90	430
8800	67	928
240	33	52
30000	4	6
780	104	1866
30	10800	432
2910	40	424
2020	5680	60
645	852	12800
12800	579	3810
3	482	40
915	5600	102
15500	63	8
10	18400	12930
3200	20	223
4	51	6680

B组

$B(4,4)$　$C(6,4)$

练习3（第18页）

A组

990	6400	1142
696	20	1200
6400	813	8383
404	40	320
4560	1570	7
739	4	1100
30	2520	380
21200	817	1000
942	81	2000
536	6900	11100
2540	20	62
497	12360	1088
35700	40	10600
2880	910	12
20	40	4200
16000	6000	500

B组

(9,6)　(3,6)

第三单元口算能力测试

（第19页）

A组

526	40	1640
7600	21	2650
646	381	2500
17000	72	7878
1080	8	572
896	680	10
13600	14400	500
13	160	4200
20	1606	7800
1688	740	520
2940	290	425
2400	5400	1050
16200	20	720
36	28200	4900
3	924	1530
12600	12400	4800

B组

1.(2,2)　(7,6)

2. 略。

3. 南　1　东　5（或东　5　南　1）

第四单元

练习1（第20页）

A组

18000	8	30
14700	60	972
8800	8	43
394	472	14
549	20	145
9	750	24000
381	20000	5
3	963	898
2510	433	888
3	1536	15
182	30	685
5100	3900	9
3	2	560
30	1000	460
12000	80	135
16800	828	9

B组

1.（1）　（4）
（√）　（√）

2. 略。

练习2（第21页）

A组

870	290	1302
31	2680	209
1350	460	1020
290	1560	20
32	230	4900
35050	65	630
184	42140	72270
469	529	68
6000	13	8
4	5200	10180
850	2800	1230
41	7	964
288	49	335
185	7	1050

B组

√　√　×　×

练习3（第22页）

A组

212	664	24
4	30	600
12000	12200	2
9930	14	20800
9200	1863	623
816	963	9200
1042	8	16
354	30	1610
309	14100	715
5600	8800	12000
15	283	121
9990	6	42000
6400	636	1818
410	8	40
16	439	3840
7	10800	1200

B组

1.（1）×　（2）×
（3）√

2.（1）47°　（2）23°
（3）25°

练习4（第23页）

A组

8000	40	963
12	6400	3
713	690	3
6420	12	124
16	20	888
654	5600	448
4505	4	560
6900	32	15
555	25000	1680
5440	688	942
7	30	4
861	4480	131
8600	21200	60
7	618	6900
731	202	366
88	13	36000

B组

1. 直角三角形：②⑥
锐角三角形：③⑤
钝角三角形：①④

2. 钝角三角形　锐角三角形　直角三角形

练习5（第24页）

A组

3600	6620	4
6400	8	720
427	389	6000
10200	1020	25
14	12	427
24000	4000	5400
8130	20	40
5	615	12000
15	6600	8
1272	881	5
9200	6700	16000
121	17	108
9100	45000	72
20	5600	7200
913	16	14
30600	16000	54000

B组

1.18　2.12

3.21°　50°　21°

练习6（第25页）

A组

4000	7	25
8800	21200	140
408	410	56000
17000	6000	7200
9000	9	280
6	110	20000
8420	6	3
6200	9100	200
5	19	9600
103	10000	860
4	12400	763
214	928	10

请沿此虚线裁剪下使用

关注微信公众号“教辅资料站”获取更多学习资料

690 9 104
5 130 91
944 808 5600
7800 942 45000

B组

1. × 2. × 3. × 4. ×
5. √

第四单元口算能力测试

（第26页）

A组

9000 6400 2
2440 1208 612
9600 16000 108
694 15 6300
3390 530 400
14 27000 16
461 6460 570
24000 868 42
5020 6000 61
861 27000 28000
20000 890 1610
7200 36000 121
109 143 710
264 12 246
510 5600 510
50 4 24

B组

1. 锐 2. 15 3. 16
4. 19 5

第五单元

练习1（第27页）

A组

1.4 1.2 >
1.5 7.5 >
3.5 1.8 >
5.9 1.4 =
12.9 1.2 <
14.2 7.4 >
18.8 2.4 >
0.6 3.4 <
7.4 8.7 >
18.1 5.3 <
6.1 15.6 <
10.2 12 >
18.3 68.1
10.8 46.8
2.4 53.3
15.5 54.4

B组

1. $\frac{8}{10}$ 0.8 $\frac{6}{10}$ 0.6
2. 0.09 0.009 0.9

$\frac{9}{10}$ $\frac{9}{100}$ $\frac{9}{1000}$

练习2（第28页）

A组

7.2 3.8 >
1.3 0.7 <
2.5 19.3 >
12.8 1.2 <
2.9 45 >
38 0.9 >
0.2 2.4 >
1.9 0.7 <
1 18.7 >
1.9 4.4 <
2.6 46.1 >
8.3 13.2
39.6 27.9
20.6 68.6
25.6 11.3
27.8 31

B组

1. 8 4 5
2. 十 个 十分 百分
3. 9
4. 0.001 5. 0.83

练习3（第29页）

A组

40 零点一三 13.08
19.3 十五点四零三 70.84
33.6 零点零八 10.045
0.6 三点六九 1003.08
1.2 零点零零四 36.04
3.4 三十点八 72.03
0.4 四十点零五 30.04
5.4 三百六十八点一二 5.06
5.2 十点零八 200.09
9.6 二十点零九 300.001
0.3 一千零五点二二 9.86
6.8 七点八二 30.07
0.4 四十点零零四 4105.221
20.1 五十点零一 6.009
4.5 零点九八五 40.001
14.3

B组

1. (1)50.05,50.50,550.0
(2)500.5
(3)5.005,55.00,5.050,
5.500,505.0,0.550,
0.055,0.505
2. 39.001

练习4（第30页）

A组

90000 960 2.7
91 300 4400
12.7 0.8 4610
133 618 2.4
8 30 200
8800 2.2 2.5
6.2 8.8 14200
290 1.9 3.3
5.8 36 300
3.9 12200 3.8
1.7 492 8800
160 30 3.6
5600 2.2 8.2
178 453 4
815 510 41
23.2 1.9 2
12600 1750 10.4

B组

1. 2.10 13.40 56.00
7.10 8.30
2. 6.5 9.09 4 10.1
3. 略。

练习5（第31页）

A组

12000 40 <
5 4.5 >
2480 596 <
40000 30 <
13.5 15 =
15500 7.3 =
4 213 >
5.9 0.6 <
8000 7 >
2 3.3 <
391 42000 <
2.1 790 >
15000 3 =
3.5 12.3 >
9600 20 >
168 18000

B组

1. 略。
2. (1)5 (2)9 9
(3)8 9 (4)9 9

练习6（第32页）

A组

1.6 618 600
25 2550 3300
9 13600 400
682 6.1 903
6 495 3400
89 488 1160
20 9360 240
7 6900 5
8.9 0.9 4590
2 25000 96
20 18.3 25000
231 6600 2800
60 13 2673
0.7 22 20
12600 8.4 780
417 45900 1600

B组

1. 略。
2. (1) 13.98 < 14 <
14.01 < 14.09 < 14.10
(2) 0.009 < 0.099 <
0.9 < 0.909 < 0.99

练习7（第33页）

A组

17.3 540 2.68
1.6 0.1546 9
59.1 173 0.0759
1.3 71 0.1317
15.2 6.64 346
5.2 3800 0.0546
15 0.001 832
4.4 0.04 9.6
1.8 182 0.005
5.4 8.67 9
3.7 1530 9.02
53 0.05 405
12.9 8.9 0.6
88.9 0.0452 13.4

请沿此虚线裁剪下使用

关注微信公众号“教辅资料站”获取更多学习资料

B组

1. × 100 ÷ 10 × 1000 ÷ 10 × 1000 ÷ 10
2. 49 4.9 0.51 510 125 1.25 0.269 2.69

练习8（第34页）

A组

10.2	90	0.192
10	0.71	190
1.8	2540	0.4289
57.4	0.089	255
20.2	6080	0.468
50.5	1.73	86
25.4	3090	8.198
16	0.505	3800
2	666	1.008
19.3	0.0806	5.06
22.4	5.4	3.78
44.2	0.051	794
12.3	236.5	0.15
52.1	0.0321	678
5.4	10.8	0.9003
40.1	6	0.547

B组

1. (1)0.501 (2)6.04 (3)0.99 (4)千分之一
2. 1280

练习9（第35页）

A组

4	1.28	816
12	2.8	5600
35.9	580	37
35.07	3900	150
5	3.6	0.62
4260	0.048	3200
1.5	1680	0.105
0.433	0.384	4.5
20	0.98	42
2.2	2.8	12
11.2	0.226	4200
16	348	0.032
8800	430	54
280	0.12	67
14.5	86	0.005
0.3657	136	

B组

1. 0.8 2. 1520
3. 0.2 4. 略。

练习10（第36页）

A组

3.8		6.3
3	1	8.17
5040		6 250
4.08		2.086
158		28.6
8.065		9.06
24	8 5	2.042
1.5		4 2
4.04		8.46
6	5	2.24
4	6 2	2.03
1	4	650
10	23	908
34		5.08
4.2		
1	3 6	

B组

1. > > < > < =
2. 1.71 m > 1 m 7 dm > 16.1 dm > 1 m 45 cm

练习11（第37页）

A组

123	0.207	0.65
0.59	900	3.72
12890	0.234	12.01
0.012	3720	0.68
2900	0.239	1.08
0.0234	1190	8.45
789	0.096	5.26
0.07809	14650	17.02
7.8	0.568	2.10
0.789	13	11.01
16730	0.0809	0.53
0.901	3409	10.00
586	1.964	13.10
0.01008	123	

B组

1.9	8.9	8.87
1	0.8	0.80
5	4.9	4.88
2.4	5 11	12
6	7 5	6

练习12（第38页）

A组

9	5.3	18.7
9.3	24	23.4
52.3	31.8	32.87
17.6	9.3	2.4
12.1	24.7	3.2
9	14	3.599
28.9	25.6	3.6
40	21.6	78.9
20.4	0.3	0.12
8.3	39	17.9
15.6	2.5	5.6
10.2	81.6	34.5
21.1	35.9	1.204
59	10.9	6.71
17.3	45.5	3.7089

B组

24.18	24
52.18	52.2
7.72	7.7
28.832	28.83
7.24	7.2
4.328	4.33
54.92	54.9
2.857	2.86

练习13（第39页）

A组

8.98	=	890
0.81	>	3900
11.91	>	3.4
6.49	=	1.46
7.97	<	5020
3.76	>	6300
0.90	=	89
9.08	<	1530
1.06	=	6.5
17.01	>	8500
2.00	>	0.3
50.10	=	0.35
98.10	>	6.08
		250

B组

1. = < < > < >
2. 1.5 2.6
3. 4 9

第五单元口算能力测试（第40页）

A组

5.7	790	6790
4.4	1.24	0.0213
26.9	0.094	12.3
5.3	11900	0.132
14.8	74.5	32400
4.4	0.0136	0.0234
70	4.36	18.9
19.9	83	0.0194
9.8	5.678	823
18.7	61	5.69
79.7	1.882	245
9.7	507.9	0.0792
65.9	0.1009	23
60.2	0.697	0.05
62.6	190	0.4503
10	315	1960

B组

1. 5.6 5.7 7.3 7.4 2.3 2.4
2. 8.04 2.25 2.3 5 250 6500 4.7 32 12 4 8 5 90

第六单元

练习1（第41页）

A组

700	47	1302
3300	7.3	6300
10	0.0019	590
190	0.07	121
7	16.6	20.7
180	8.1	6.31
8.5	630	29
0.008	4600	46.6
4800	5000	0.1245
4300	0.036	29.4
0.0067	9	12
9	2480	0.0014
1170	0.56	678
9	2.6	3
16.1	3600	100
969	250	761

请沿此虚线裁剪下使用

关注微信公众号“教辅资料站”获取更多学习资料

B组

1.

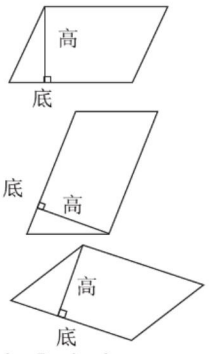

2.3　5　6　3

练习2（第42页）

A组

7.2	0.015	6.8
622	50	16840
4820	720	32
0.016	17500	6.9
0.0217	20.2	22.8
7200	11600	0.0153
18.4	0.089	64
0.441	13	270
43.9	11.6	1178
268	1800	2.125
654	940	260
3440	169	43.2
3.5	54.5	24
41.9	53.7	156
24.3	1056	0.2045
68	1470	1075

B组

1.

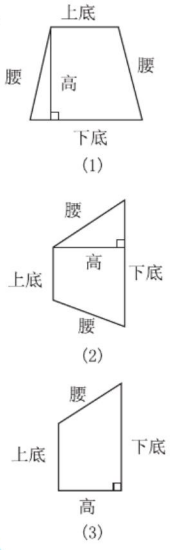

2.9　3.8

练习3（第43页）

A组

505	731	380
14400	660	1644
14.1	16100	9.9
11.5	28	4
16.8	2.165	861
846	23	7500
0.2145	452	17.6
725	11.2	13.2
18.6	8600	990
664	150	24400
543.2	91	204
14.3	40	547
5400	876.5	0.1614
6.723	21.3	25.9
1280	392	1.694
179	167.9	6400

B组

1. △　2. 黄　3. ○　●

练习4（第44页）

A组

2550	319	338
37	6.8	3400
4.3	281	12.2
130	0.2056	10500
5600	7.8	340
6.1	11.5	32.1
587	5700	719
169	60	2.107
1200	71.8	736
2.714	722	8000
5	3.145	80
25.8	64	0.00896
216.4	2.874	2176
30	750	13600
147.9	9.5	356.7
464	36.3	1470

B组

梯形　平行四边形
梯形　平行四边形
7　10　13　16

第六单元口算能力测试（第45页）

A组

1520	1240	112.3
1200	20000	405
664	892	73
25	4.1	2700
580	167	2.105
7.6	2.175	68
12.5	300	33
29	617.2	2400
6900	13.6	6.215
4200	49.1	590
14.4	3800	28000
20.6	691	412
0.167	21.1	22.8
1750	190	171.6
19.9	286	54.6
21.4	2.4	90

B组

1.6　3　2. 爱

第七单元

练习1（第46页）

A组

33.5	18.5	4.6
34.6	22.4	14.8
25.3	33.4	29.4
6.38	67.8	25
26.3	1.2	14.2
8.1	21.3	121.2
12.7	10.6	3.8
2.2	11.9	19.42
12.6	8.7	13.7
0.5	9.2	12
13.3	31.5	22.1
100	49.4	20.55
21.55	37.7	46.1
15.6	91.2	16.23
2.5	25	43.2

B组

40.16　3.67　21.76
10.67

练习2（第47页）

A组

10.6	6.42	24.6
0.7	10.12	0.8
10.5	10.3	52
3.8	29.9	1.2
12.9	13.13	30
9.22	10.47	32.8
36.21	56.78	8.2
4.14	9.1	21
4.7	3.89	7.26
13.2	67.96	2.5
20	5.19	7.9
40	11.9	47
27.6	6.35	7.5
5.7	15.85	38.46
56.44	4.03	12.23
14.1	20.69	38

B组

17.08　17.15　17.1

练习3（第48页）

A组

4.03	1.4	24
3.5	1.23	41.2
5	8.7	3
2.8	37	23.56
6.7	23.9	21.1
13.6	19.7	28.9
11.6	6.22	10
4.36	12.43	2.3
0.22	21	4.3
11.45	5	32
4.23	64.9	11
28.2	8.58	6
13.25	17.64	14.5
0.95	4.96	1
1.72	1.19	16
15.49	6.87	28.64

B组

1. 3.48

2. $17.8-3.7-6.3$
$=17.8-(3.7+6.3)$
$=17.8-10$
$=7.8$

$13.6+2.82+6.4+1.18$
$=(13.6+6.4)+(2.82+1.18)$
$=20+4$
$=24$

$42.2-(2.2+0.98)$
$=42.2-2.2-0.98$
$=40-0.98$
$=39.02$

练习4（第49页）

A组

45.2	87.73	44.9
22.5	9.1	3
31.9	1.21	10.5
5.3	19.55	5.89
46	11.8	4
22.88	18.99	0
8.86	55.5	45.1

请沿此虚线裁剪下使用

关注微信公众号“教辅资料站”获取更多学习资料

130.1 28.2 3.8
35.72 2.21 32.2
22.26 23.49 1.31
42.98 14.15 6.2
13.19 10.23 8.4
12.2 10.23 2.24
41.66 7.86 10.22
2.65 23.01 11.5
24 6.35 28.2

B组

1. 178.3 2.3 3.0.07
4. 1.8

练习5（第50页）

A组

0.35 0.93 15
1 7.58 8.4
4.58 6.61 17.73
5.03 6.67 20.6
4 11.02 38
11.46 20.18 31.9
42.25 12.55 28.1
0.3 24.5 0.22
8.95 29.05 0.6
1.94 22.91 5
27.03 6.89 2.8
2.65 1.55 4.6
8.22 56.96 41.3
10.32 5.3 2.81
11.78 16.54 1
32.15 9.28 36

B组

1. 5.84 4.6 12.72
12.8 15.05 0.05
7 3.66
2. > < > <

第七单元口算能力测试

（第51页）

A组

38.2 61.2 16.4
16.8 14.3 5.7
13 10.93 2.3
7.06 8 4.87
25 54.33 7.02
1.2 69.01 1.47
22.2 97 1.2
1 40 0.45
35 2.3 5.4
12.03 1 7.1
5.2 7.01 11
1 3.77 17
12.4 4.77 30.24
11.23 25.53 60
44.2 45.24 16.1

B组

1. 13.6 6.4 2. 32.5

第八单元

练习1（第52页）

A组

31 10 36
880 22 6
3550 369 199
758 16 271
1477 5150 324
210 18 1600
75 335 16800
10000 12 160
721 17 1210
10 10100 60
110 9600 853
428 92 130
4080 1036 715
20 115 1060
420 21000 126

B组

1. 140 66 30
2. (1) × (2) √

练习2（第53页）

A组

632 690 72
15 3300 120
6600 9 3
830 2 22
20 420 12
809 6 113
18 912 5
139 11 713
20 117 12200
3600 42 8
378 3 863
12600 165 30
323 363 40
2008 30 710
5600 57 54000
20 51 92

B组

1. 256 2. 100 3. 25

练习3（第54页）

A组

5700 4 49000
20 14000 990
7230 662 609
281 5400 4800
1204 12720 450
6840 5400 20
14 5 12500
101 725 17
104 60 2940
20000 61 3208
6 730 19
436 6 720
12900 326 30
10500 45000 248
16 990 90
45 28700 11200

B组

1. 1 4 4 6 2 2
8 3
2. 100元及100元以上
71元~99元

练习4（第55页）

A组

68 51 952
157 608 701
401 221 222
1480 62 555
600 560 263
11 486 560
270 181 3900
156 358 232
340 968 152
224 153 1820
1000 9200 15
746 123 7000

B组

略。

第八单元口算能力测试

（第56页）

A组

82 186 132
437 7 310
96 706 15
660 210 6464
12 2620 101
3540 6 428
50 440 50
20 2032 391
0 17 1020
81 490 342
613 32 117
1845 0 92

B组

画统计图略。1. 11 11
2. 40

第九单元

练习1（第57页）

A组

6.8 660 2340
13.4 0.077 1.21
29.9 128 23410
5.4 900 0.013
8.4 0.0784 12230
0.5 0.532 0.413
6.5 3.41 627
1.2 1270 0.96
2 0.412 890
16.3 43 0.0324
18.9 0.0101 0.6
1.9 320.4 0.1123
7.7 5.61 2030
2.5 0.09 0.976

B组

1. > = =
< > >
2. 28.098 28.1
3.08789 3.09
8.8829 8.88

练习2（第58页）

A组

570 1269 11
16400 14.3 66
30 420 8900
372 17 400
1007 9.38 0.91
7.32 555 720
1.3 92 1.56
880 27900 1800
1020 1181 1200
56 613 23.8
808 43 88
5.16 4.19 200
11.4 4.4 630
12.3 3.91 9.26
32800 970 22000
32 7 98

B组

5.28 12.5 900 12
240 12000 4.92 9.13

练习3（第59页）

A组

8 10.1 290

请沿此虚线裁剪下使用

关注微信公众号“教辅资料站”获取更多学习资料

151 6 8.26
7200 71 11.5
161 24600 1160
4.82 54 600
190 8400 6700
1480 7.9 5.54
0.1 8.4 1800
617 18000 1800
16.7 13.22 2.9
250 5200 21
927 173 700
9000 1.46 25000
16.29 10500 2400
29 5 8
0.28 1.48 16

B组

1. > <
= >
> <

2. (105 − 98) × (25 + 73)
=7 × 98
=7 × (100 − 2)
=700 − 14
=686

7.6 + 8.76 + 1.24 + 2.4
= (7.6 + 2.4) + (8.76 + 1.24)
=10 + 10
=20

练习4（第60页）

A组

3.67 9.83 9000
1.2 530 14.53
9 20 3.26
400 2.2 700
10500 8400 450
11 764 9
528 0.18 2.5
0.09 9 25
50 727 14.7
9.63 1620 7800
817 1.03 46000
17.28 726 8500
7 54.6 7
23.41 60.5 2.5
852 362 8
17600 9.2 550

B组

1. 1300 2. 12
3. 19.6 4. 20

练习5（第61页）

A组

15300 16400 27.12
6 24600 9.3
0.31 339 140
27 0.1127 6500
6.3 6.96 6.41
7.37 6.46 111
5.1 21.91 5
342 405 9100
8 506 9127
627 7600 730
40 33 1.32
10.27 820 820
10.3 169 3.9
131 7.11 5.74
722 433 10.55
5600 80 111

B组

略。

练习6（第62页）

A组

6.8 800 16.29
17500 4.37 9.63
436 10400 333
8080 5.2 590
0.73 21.95 936
22 3 4.31
11.41 47.21 1146
1.06 290 7.71
12.87 16 13600
25600 9.5 45
75.8 14700 30
486 37.25 25.55
134 730 331
10.5 20.4 17.08
8 348 310
0.18 130 30

B组

1. 15 20 20 2.8
3. (1)

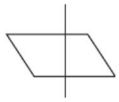

(2)

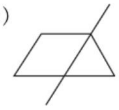

练习7（第63页）

A组

225 19 33.6
3.64 140 2
607 5.02 197
21 30 17600
469 2.65 960
14700 2.87 7035
2000 205 16000
10.07 411 18.91
7 750 30
7 9.1 27.3
12600 40 1.6
1.63 846 160
2808 227 20100
221 30 33
9.11 3.95 4300
1500 4200 7

B组

1. $A(1,1)$ $B(3,3)$
2. (5,3) 3. (7,1)

练习8（第64页）

A组

780 40 897
272 580 206
91 232 840
1259 140 189
999 21 426
202 500 24
22 244 588
900 336 353
888 20 14000
939 224 21
189 418 3150
200 154 928
344 653 345

B组

略。

口算能力期末综合测评（一）（第65页）

480 20 680
20 515 960
143 3900 7
13 4840 1450
900 33 96
14 1180 4000
1080 20 390
82 5 6800
2450 65 840
600 258 5200
18 6300 2500
60 345 10
1540 589 1030
509 21 60000
600 270 6700
30 356 96
29 5600 5100
450 74 15
18 420 4400
10 1080 549
516 3000 100
12 16 1050
9000 30 10
2 1470 500

口算能力期末综合测评（二）（第66页）

16.6 12.24 32.09
1.5 21.81 2
18.54 3.33 6.7
6.6 16.34 24.43
8.98 8 17
0.88 67 49
5.05 12.07 27.3
14.1 49.5 21
2.08 11.8 0.51
11.8 53.7 26
7.8 3 14.9
40.6 11.4 4.58
1.1 5.4 6
1.13 10.75 8
7.91 14.87 30
1.21 2.01 55.7
9.9 13.3 49.31
14.96 20.2 36.4
41.31 7.2 12
19.19 21.4 22.14
30.51 16 1.7
50.24 23.31 8.68
0.7 6 2
6.31 4.27 1.75

请沿此虚线裁剪下使用

关注微信公众号“教辅资料站”获取更多学习资料

快乐涂色

小朋友你好，看看豆点在做什么？用你的 给下图涂上好看的颜色吧！



关注微信公众号“教辅资料站”获取更多学习资料

亲爱的小朋友，快来和豆点一起用 装点属于你们的秘密花园吧！



关注微信公众号“教辅资料站”获取更多学习资料



口算脑算用心算
巧算速算不难算

荣德基官方网站:
http://www.rudder.com.cn

荣德基天猫旗舰店:
http://rongdeji.tmall.com

荣德基小学频道
获取最新教育资讯

荣德基教育APP
让教和学变得简单

ISBN 978-7-5336-8997-1
9 787533 689971
定价:21.90元

荣德基 星级口算天天练 四年级数学 下

关注微信公众号“教辅资料站”获取更多学习资料