教辅资料站

电子教辅　试卷练习
知识总结　备课资源

—— 扫码关注获取更多学习资料 ——

中国品牌创新发展工程 推荐品牌

荣德基 主编



星级口算天天练

五年级 数学 上（SJ版）

扫码判对错

时代出版传媒股份有限公司
安徽教育出版社

常规好题题题好　变式妙题道道妙

星级口算天天练
五年级数学 上（SJ版）
荣德基 主编

荣德基 主编

星级口算天天练

五年级 数学 上（SJ版）

本册主编：杜 凯



学 校：.....

班 级：.....

姓 名：.....

喜欢的格言：.....

时代出版传媒股份有限公司
安 徽 教 育 出 版 社

关注微信公众号“教辅资料站”获取更多学习资料

目录

CONTENTS

第一单元　负数的初步认识

练习1　认识负数 …… 1
练习2　用正负数表示实际问题 …… 2
第一单元口算能力测试 …… 3

第二单元　多边形的面积

练习1　平行四边形的面积 …… 4
练习2　三角形的面积 …… 5
练习3　习题课 …… 6
练习4　梯形的面积 …… 7
练习5　公顷的认识 …… 8
练习6　平方千米的认识 …… 9
练习7　习题课 …… 10
练习8　组合图形的面积 …… 11
练习9　不规则图形的认识 …… 12
练习10　整理与练习 …… 13
第二单元口算能力测试 …… 14

第三单元　小数的意义和性质

练习1　小数的意义和读写方法 …… 15
练习2　小数的计数单位和数位顺序 …… 16
练习3　习题课 …… 17
练习4　小数的性质 …… 18
练习5　小数的大小比较 …… 19
练习6　习题课 …… 20
练习7　用“万”“亿”作单位的小数表示大数目 …… 21
练习8　小数的近似数 …… 22
练习9　整理与练习 …… 23
第三单元口算能力测试 …… 24

关注微信公众号“教辅资料站”获取更多学习资料



第四单元　小数加法和减法

练习 1　小数加减法（一）…… 25
练习 2　小数加减法（二）…… 26
练习 3　习题课…… 27
练习 4　用计算器计算…… 28
第四单元口算能力测试 …… 29

第五单元　小数乘法和除法

练习 1　小数乘整数…… 30
练习 2　小数点的移动规律（一）…… 31
练习 3　除数是整数的小数除法…… 32
练习 4　小数点的移动规律（二）…… 33



练习 5　习题课…… 34
练习 6　小数乘小数（一）…… 35
练习 7　小数乘小数（二）…… 36
练习 8　积的近似值…… 37
练习 9　习题课…… 38
练习 10　一个数除以小数（一）…… 39
练习 11　一个数除以小数（二）…… 40
练习 12　商的近似值（一）…… 41
练习 13　商的近似值（二）…… 42
练习 14　习题课 …… 43
练习 15　整数加法、乘法运算定律推广到小数
…… 44
练习 16　习题课 …… 45
练习 17　整理与练习 …… 46
第五单元口算能力测试 …… 47

第六单元　统计表和条形统计图（二）

练习 1　统计表…… 48
练习 2　条形统计图…… 49
第六单元口算能力测试 …… 50



微信公众号
教辅资料站

关注微信公众号“教辅资料站”获取更多学习资料



第七单元　解决问题的策略

练习1　解决问题的策略（一）…… 51
练习2　解决问题的策略（二）…… 52
练习3　习题课…… 53
第七单元口算能力测试 …… 54

第八单元　用字母表示数

练习1　用字母表示数（一）…… 55
练习2　用字母表示数（二）…… 56
练习3　习题课…… 57



练习4　化简含有字母的式子…… 58
练习5　习题课…… 59
第八单元口算能力测试 …… 60

第九单元　整理与复习

练习1　负数的初步认识…… 61
练习2　多边形的面积…… 62
练习3　小数的意义和性质…… 63
练习4　小数加法和减法…… 64
练习5　小数乘法和除法…… 65
练习6　统计表和条形统计图（二）…… 66
练习7　解决问题的策略…… 67
练习8　用字母表示数…… 68
口算能力期末综合测评（一） …… 69
口算能力期末综合测评（二） …… 70
口算能力期末综合测评（三） …… 71
口算能力期末综合测评（四） …… 72
参考答案 …… 73

微信公众号
教辅资料站

关注微信公众号“教辅资料站”获取更多学习资料

第一单元 负数的初步认识

练习1 认识负数

用时：____分____秒　错误：　个

A组 常规口算题

40 ×200 =	160 ×30 =	23 ×400 =
120 ×20 =	252 ×3 =	140 ×60 =
428 ÷2 =	126 ÷3 =	306 ×20 =
11 ×600 =	350 ×20 =	630 ÷3 =
500 ×40 =	4 ×162 =	620 ×40 =
42 ×40 =	48 ÷24 =	900 ×50 =
160 ×60 =	114 ×50 =	22 ×80 =
96 ÷32 =	60 ×23 =	430 ×30 =
103 ×80 =	700 ×80 =	48 ÷16 =
130 ×50 =	80 ×300 =	470 ×4 =
427 ÷7 =	480 ÷6 =	600 ÷60 =
80 ×120 =	40 ×422 =	320 ×30 =
640 ÷16 =	170 ×40 =	40 ×420 =
800 ×60 =	455 ÷5 =	360 ÷60 =
3 ×27 =	106 ×6 =	610 ×90 =
250 ×40 =	410 ×50 =	5 ×210 =

B组 变式口算题

1. 把下面的数填到相应的圆圈内。

-7　$\frac{1}{2}$　$-\frac{1}{3}$　$+5$　0　560　-90

正数　　负数

2. 某地某日的最高气温为零上3 ℃，记作(　　)℃，最低气温为零下4 ℃，记作(　　)℃。

3. 珠穆朗玛峰高于海平面约8844 米，记作(　　)米，死海的水面低于海平面422 米，可记作(　　)米。

微信公众号 教辅资料站

关注微信公众号“教辅资料站”获取更多学习资料

练习2 用正负数表示实际问题

用时:___分___秒 错误: 个

A组 常规口算题

127 ×3 =	250 ×20 =	500 ×13 =
520 ×20 =	321 ×4 =	90 ×110 =
17 ×8 =	160 ×30 =	217 ×4 =
260 ×20 =	78 ÷2 =	30 ×270 =
96 ÷16 =	400 ×14 =	84 ÷21 =
32 ×400 =	25 ×800 =	200 ×16 =
134 ×2 =	60 ×160 =	98 ×4 =
150 ÷50 =	480 ÷40 =	440 ÷20 =
300 ×14 =	57 ×4 =	25 ×40 =
430 ×30 =	30 ×280 =	265 ÷5 =
230 ×40 =	406 ×8 =	40 ×102 =
126 ÷3 =	180 ÷30 =	30 ×203 =
300 ×24 =	29 ×200 =	80 ×220 =
262 ×3 =	408 ÷4 =	307 ×8 =
112 ×30 =	420 ×30 =	484 ÷11 =
30 ×52 =	40 ×46 =	170 ×50 =

B组 变式口算题

1. 在知识竞赛中,如果用 +10 分表示加 10 分,那么扣 10 分可以用(　　)表示。
2. 一艘潜水艇在水平面以下 30 米,记作 −30 米,一只小鸟在水平面以上 20 米,记作(　　)米。
3. 如果下降 5 米记作 −5 米,那么上升 4 米记作(　　)米;如果 +2 千克表示增加 2 千克,那么 −3 千克表示(　　)。
4. 汽车到站后下去 10 人记作 −10 人,那么上来 20 人记作(　　)人。
5. 如果莉莉妈妈本月工资收入 5000 元,记作 +5000 元,那么莉莉买书花了 150 元,记作(　　)元。

关注微信公众号"教辅资料站"获取更多学习资料

第一单元口算能力测试

用时：____分____秒　错误：　个

A组 常规口算题

210 × 50 =	801 × 20 =	246 ÷ 6 =
123 × 4 =	320 × 60 =	700 × 12 =
29 × 40 =	560 ÷ 4 =	302 × 20 =
220 × 20 =	30 × 150 =	810 × 40 =
132 ÷ 11 =	121 × 5 =	404 ÷ 4 =
47 × 8 =	213 × 30 =	142 × 20 =
440 ÷ 40 =	97 × 30 =	127 × 30 =
600 × 17 =	19 × 300 =	20 × 360 =
87 × 2 =	164 ÷ 41 =	28 × 6 =
270 × 50 =	8 × 108 =	720 × 30 =
636 ÷ 6 =	70 × 130 =	126 ÷ 42 =
301 × 70 =	990 ÷ 9 =	108 × 40 =
3 × 211 =	460 × 50 =	321 × 5 =
580 × 40 =	210 ÷ 70 =	540 × 20 =
369 ÷ 3 =	212 × 40 =	205 × 20 =
140 × 60 =	8 × 32 =	520 × 30 =

B组 变式口算题

1. 在□内填入适当的数。

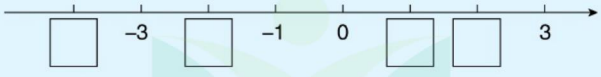

2. 在 5，−10，$+\frac{1}{7}$，0，$-\frac{1}{3}$，180 中，正数有(　　)，负数有(　　)。

3. 小红向南走 300 米，记作 +300 米，小明向北走 200 米，则记作(　　)米。

4. 如果 −50 元表示支出 50 元，那么 +100 元表示(　　)。

5. 期末考试后，李老师为了方便，将小丽的 90 分记为 0 分，将小明的 92 分记为 2 分，则小亮考了 95 分应记为(　　)分，小华的成绩记为 −3 分，小华实际则考了(　　)分。

关注微信公众号“教辅资料站”获取更多学习资料

第二单元 多边形的面积

练习1 平行四边形的面积

用时：___分___秒　错误：　个

A组 常规口算题

◆ 求平行四边形的面积。

$a=15\text{m}, h=2\text{m}, S=(\quad)\text{m}^2$　　$a=40\text{cm}, h=17\text{cm}, S=(\quad)\text{cm}^2$

$a=21\text{m}, h=9\text{m}, S=(\quad)\text{m}^2$　　$a=9\text{mm}, h=11\text{mm}, S=(\quad)\text{mm}^2$

$a=50\text{cm}, h=70\text{cm}, S=(\quad)\text{cm}^2$　　$a=15\text{mm}, h=6\text{mm}, S=(\quad)\text{mm}^2$

$a=32\text{mm}, h=4\text{mm}, S=(\quad)\text{mm}^2$　　$a=52\text{m}, h=40\text{m}, S=(\quad)\text{m}^2$

$a=27\text{mm}, h=3\text{mm}, S=(\quad)\text{mm}^2$　　$a=88\text{m}, h=50\text{m}, S=(\quad)\text{m}^2$

$a=12\text{cm}, h=8\text{cm}, S=(\quad)\text{cm}^2$　　$a=30\text{dm}, h=8\text{dm}, S=(\quad)\text{dm}^2$

$a=40\text{cm}, h=52\text{cm}, S=(\quad)\text{cm}^2$　　$a=140\text{cm}, h=60\text{cm}, S=(\quad)\text{cm}^2$

$a=5\text{mm}, h=9\text{mm}, S=(\quad)\text{mm}^2$　　$a=20\text{cm}, h=27\text{cm}, S=(\quad)\text{cm}^2$

$a=30\text{mm}, h=20\text{mm}, S=(\quad)\text{mm}^2$　　$a=35\text{m}, h=8\text{m}, S=(\quad)\text{m}^2$

$a=44\text{m}, h=5\text{m}, S=(\quad)\text{m}^2$　　$a=31\text{m}, h=9\text{m}, S=(\quad)\text{m}^2$

$a=31\text{m}, h=8\text{m}, S=(\quad)\text{m}^2$　　$a=32\text{mm}, h=3\text{mm}, S=(\quad)\text{mm}^2$

$a=20\text{cm}, h=24\text{cm}, S=(\quad)\text{cm}^2$　　$a=130\text{dm}, h=40\text{dm}, S=(\quad)\text{dm}^2$

$a=23\text{cm}, h=6\text{cm}, S=(\quad)\text{cm}^2$　　$a=66\text{cm}, h=50\text{cm}, S=(\quad)\text{cm}^2$

$a=200\text{mm}, h=70\text{mm}, S=(\quad)\text{mm}^2$　　$a=22\text{cm}, h=7\text{cm}, S=(\quad)\text{cm}^2$

$a=28\text{m}, h=5\text{m}, S=(\quad)\text{m}^2$　　$a=10\text{m}, h=4\text{m}, S=(\quad)\text{m}^2$

B组 变式口算题

1. 计算下面平行四边形的面积。（单位：cm）

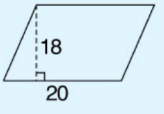

（　　）cm^2

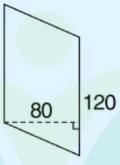

（　　）cm^2

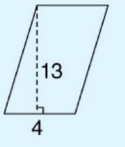

（　　）cm^2

2. 一块平行四边形铁板，底是13分米，高是8分米，这块铁板的面积是（　　）平方分米。

3. 一块平行四边形菜地的底是25米，高是18米，如果每平方米可以种8棵白菜，这块菜地一共可以种（　　）棵白菜。

微信公众号 教辅资料站

关注微信公众号“教辅资料站”获取更多学习资料

练习2　三角形的面积

用时：___分___秒　错误：　个

A组　常规口算题

◆ 求三角形的面积。

$a=15\text{m}, h=2\text{m}, S=(\quad)\text{m}^2$　　$a=31\text{cm}, h=20\text{cm}, S=(\quad)\text{cm}^2$

$a=16\text{m}, h=4\text{m}, S=(\quad)\text{m}^2$　　$a=12\text{m}, h=4\text{m}, S=(\quad)\text{m}^2$

$a=8\text{cm}, h=6\text{cm}, S=(\quad)\text{cm}^2$　　$a=40\text{dm}, h=9\text{dm}, S=(\quad)\text{dm}^2$

$a=20\text{cm}, h=10\text{cm}, S=(\quad)\text{cm}^2$　　$a=8\text{cm}, h=7\text{cm}, S=(\quad)\text{cm}^2$

$a=14\text{dm}, h=20\text{dm}, S=(\quad)\text{dm}^2$　　$a=18\text{cm}, h=2\text{cm}, S=(\quad)\text{cm}^2$

$a=5\text{dm}, h=12\text{dm}, S=(\quad)\text{dm}^2$　　$a=30\text{mm}, h=60\text{mm}, S=(\quad)\text{mm}^2$

$a=80\text{mm}, h=30\text{mm}, S=(\quad)\text{mm}^2$　　$a=20\text{m}, h=15\text{m}, S=(\quad)\text{m}^2$

$a=40\text{mm}, h=6\text{mm}, S=(\quad)\text{mm}^2$　　$a=42\text{m}, h=2\text{m}, S=(\quad)\text{m}^2$

$a=11\text{cm}, h=4\text{cm}, S=(\quad)\text{cm}^2$　　$a=25\text{dm}, h=8\text{dm}, S=(\quad)\text{dm}^2$

$a=6\text{cm}, h=10\text{cm}, S=(\quad)\text{cm}^2$　　$a=10\text{dm}, h=16\text{dm}, S=(\quad)\text{dm}^2$

$a=32\text{m}, h=20\text{m}, S=(\quad)\text{m}^2$　　$a=15\text{cm}, h=6\text{cm}, S=(\quad)\text{cm}^2$

$a=25\text{dm}, h=4\text{dm}, S=(\quad)\text{dm}^2$　　$a=26\text{dm}, h=2\text{dm}, S=(\quad)\text{dm}^2$

$a=30\text{mm}, h=8\text{mm}, S=(\quad)\text{mm}^2$　　$a=60\text{mm}, h=8\text{mm}, S=(\quad)\text{mm}^2$

$a=88\text{cm}, h=5\text{cm}, S=(\quad)\text{cm}^2$　　$a=22\text{m}, h=4\text{m}, S=(\quad)\text{m}^2$

$a=40\text{m}, h=50\text{m}, S=(\quad)\text{m}^2$　　$a=24\text{m}, h=5\text{m}, S=(\quad)\text{m}^2$

$a=13\text{m}, h=4\text{m}, S=(\quad)\text{m}^2$　　$a=14\text{cm}, h=10\text{cm}, S=(\quad)\text{cm}^2$

B组　变式口算题

1. 计算下面三角形的面积。

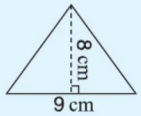

(　　)cm^2

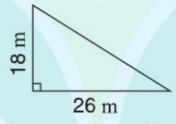

(　　)m^2

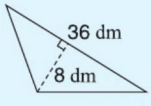

(　　)dm^2

2. 一块三角形警示牌，底是20分米，高是15分米，面积是(　　)平方分米。

3. 一块三角形田地，底是30米，高是12米，共植树90棵，平均每棵树占地(　　)平方米。

关注微信公众号“教辅资料站”获取更多学习资料

练习3 习题课

用时：___分___秒 错误：　个

A组 常规口算题

◆ 求平行四边形的面积。

$a=22\text{m}, h=8\text{m}, S=(\quad)\text{m}^2$
$a=30\text{m}, h=50\text{m}, S=(\quad)\text{m}^2$
$a=37\text{cm}, h=2\text{cm}, S=(\quad)\text{cm}^2$
$a=42\text{dm}, h=8\text{dm}, S=(\quad)\text{dm}^2$
$a=110\text{cm}, h=60\text{cm}, S=(\quad)\text{cm}^2$
$a=52\text{mm}, h=40\text{mm}, S=(\quad)\text{mm}^2$
$a=15\text{dm}, h=10\text{dm}, S=(\quad)\text{dm}^2$
$a=30\text{dm}, h=27\text{dm}, S=(\quad)\text{dm}^2$
$a=9\text{cm}, h=4\text{cm}, S=(\quad)\text{cm}^2$
$a=23\text{cm}, h=3\text{cm}, S=(\quad)\text{cm}^2$
$a=31\text{m}, h=9\text{m}, S=(\quad)\text{m}^2$
$a=22\text{m}, h=30\text{m}, S=(\quad)\text{m}^2$
$a=60\text{dm}, h=40\text{dm}, S=(\quad)\text{dm}^2$
$a=49\text{mm}, h=2\text{mm}, S=(\quad)\text{mm}^2$
$a=90\text{cm}, h=100\text{cm}, S=(\quad)\text{cm}^2$
$a=36\text{m}, h=20\text{m}, S=(\quad)\text{m}^2$

◆ 求三角形的面积。

$a=22\text{cm}, h=30\text{cm}, S=(\quad)\text{cm}^2$
$a=16\text{cm}, h=5\text{cm}, S=(\quad)\text{cm}^2$
$a=120\text{m}, h=50\text{m}, S=(\quad)\text{m}^2$
$a=72\text{m}, h=40\text{m}, S=(\quad)\text{m}^2$
$a=6\text{dm}, h=12\text{dm}, S=(\quad)\text{dm}^2$
$a=80\text{cm}, h=60\text{cm}, S=(\quad)\text{cm}^2$
$a=21\text{cm}, h=8\text{cm}, S=(\quad)\text{cm}^2$
$a=25\text{mm}, h=4\text{mm}, S=(\quad)\text{mm}^2$
$a=40\text{mm}, h=35\text{mm}, S=(\quad)\text{mm}^2$
$a=18\text{cm}, h=5\text{cm}, S=(\quad)\text{cm}^2$
$a=40\text{m}, h=30\text{m}, S=(\quad)\text{m}^2$
$a=50\text{m}, h=24\text{m}, S=(\quad)\text{m}^2$
$a=40\text{cm}, h=3\text{cm}, S=(\quad)\text{cm}^2$
$a=34\text{cm}, h=20\text{cm}, S=(\quad)\text{cm}^2$
$a=36\text{dm}, h=5\text{dm}, S=(\quad)\text{dm}^2$
$a=42\text{m}, h=10\text{m}, S=(\quad)\text{m}^2$

B组 变式口算题

1. 一个三角形和一个平行四边形同底等高，若平行四边形的面积是96cm^2，则三角形的面积是(　　)。
2. 一个三角形的高是50m，如果底扩大到原来的5倍，高不变，那么这个三角形的面积(　　)。
3. 如图，平行四边形的底是24cm，阴影部分的面积是216cm^2，平行四边形的高是(　　)cm。

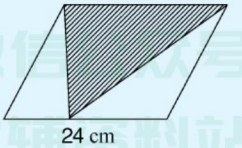

关注微信公众号“教辅资料站”获取更多学习资料

练习4　梯形的面积

用时：___分___秒　错误：　个

A组　常规口算题

710 × 40 =　　30 × 620 =
18 × 40 =　　36 × 60 =
60 × 320 =　　216 ÷ 3 =
36 ÷ 12 =　　40 × 109 =
460 × 20 =　　305 × 30 =
123 × 4 =　　480 ÷ 60 =
114 × 60 =　　411 × 50 =
568 ÷ 8 =　　240 × 40 =
60 × 130 =　　125 × 20 =
40 × 72 =　　95 ÷ 5 =
350 ÷ 50 =　　95 ÷ 5 =
272 × 3 =　　82 × 3 =
112 × 50 =　　80 ÷ 40 =
76 ÷ 2 =　　207 × 90 =
345 × 20 =　　611 × 30 =
4 × 23 =　　20 × 34 =
210 × 60 =　　453 ÷ 3 =

◆ 求下面各梯形的面积。

$a=42\text{m}, b=58\text{m}, h=20\text{m}$
$S=(\quad)\text{m}^2$

$a=24\text{m}, b=56\text{m}, h=25\text{m}$
$S=(\quad)\text{m}^2$

$a=15\text{cm}, b=35\text{cm}, h=6\text{cm}$
$S=(\quad)\text{cm}^2$

$a=5\text{cm}, b=7\text{cm}, h=4\text{cm}$
$S=(\quad)\text{cm}^2$

$a=14\text{dm}, b=16\text{dm}, h=8\text{dm}$
$S=(\quad)\text{dm}^2$

$a=3\text{mm}, b=11\text{mm}, h=6\text{mm}$
$S=(\quad)\text{mm}^2$

$a=8\text{cm}, b=16\text{cm}, h=5\text{cm}$
$S=(\quad)\text{cm}^2$

$a=9\text{m}, b=7\text{m}, h=8\text{m}$
$S=(\quad)\text{m}^2$

B组　变式口算题

1. 计算下面各梯形的面积。（单位：cm）

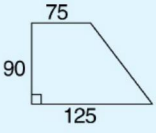

（　　）cm^2

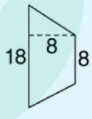

（　　）cm^2

2. 一块梯形菜园，上底是28米，下底是32米，高是16米，这个梯形菜园的面积是（　　）平方米。

3. 一块梯形铁板的面积是108平方米，上底长4米，下底长8米，那么这块梯形铁板的高是（　　）米。

微信公众号
教辅资料站

关注微信公众号“教辅资料站”获取更多学习资料

练习5 公顷的认识

用时：___分___秒 错误：　个

A组 常规口算题

3公顷 = (　　)平方米	10平方分米 = (　　)平方厘米
70000平方米 = (　　)公顷	28公顷 = (　　)平方米
14平方分米 = (　　)平方厘米	2000000平方米 = (　　)公顷
20公顷 = (　　)平方米	9平方米 = (　　)平方厘米
50000平方米 = (　　)公顷	680000平方米 = (　　)公顷
250平方米 = (　　)平方分米	340平方米 = (　　)平方分米
32平方米 = (　　)平方厘米	15公顷 = (　　)平方米
400000平方米 = (　　)公顷	30000平方米 = (　　)公顷
200公顷 = (　　)平方米	110公顷 = (　　)平方米
300平方米 = (　　)平方分米	690平方分米 = (　　)平方厘米
4800000平方米 = (　　)公顷	45平方分米 = (　　)平方厘米
100平方分米 = (　　)平方厘米	610000平方米 = (　　)公顷
190平方米 = (　　)平方厘米	400公顷 = (　　)平方米
60000平方米 = (　　)公顷	84公顷 = (　　)平方米
230平方分米 = (　　)平方厘米	17平方米 = (　　)平方厘米
53公顷 = (　　)平方米	960000平方米 = (　　)公顷

B组 变式口算题

1. (1)颐和园是中国现存规模最大、保存最完整的皇家园林，它的面积约为2900000平方米，约合(　　)公顷。

(2)天坛是中国现存最大的祭坛建筑群，它的面积约为273公顷，是(　　)平方米。

(3)北海公园是北京最著名的公园之一，全园占地面积约为71公顷，约合(　　)平方米。

2. 有一个古镇街道，房屋正好围成一个长2000米，宽1500米的长方形。这个古镇街道的面积是(　　)平方米，合(　　)公顷。

关注微信公众号“教辅资料站”获取更多学习资料

练习6　平方千米的认识

用时：___分___秒　错误：　个

A组　常规口算题

4 平方千米 = (　　) 平方米	4800 公顷 = (　　) 平方千米
800 公顷 = (　　) 平方米	60000 平方米 = (　　) 公顷
20000 平方米 = (　　) 公顷	10 平方米 = (　　) 平方厘米
240 平方米 = (　　) 平方分米	8200 公顷 = (　　) 平方千米
100 公顷 = (　　) 平方千米	63 平方千米 = (　　) 平方米
27 平方千米 = (　　) 平方米	34 平方千米 = (　　) 平方米
6 公顷 = (　　) 平方米	10 公顷 = (　　) 平方米
1400 公顷 = (　　) 平方千米	2400 公顷 = (　　) 平方千米
60 平方千米 = (　　) 平方米	80000 平方米 = (　　) 公顷
3000 公顷 = (　　) 平方千米	62 平方千米 = (　　) 平方米
410 平方分米 = (　　) 平方厘米	4500 公顷 = (　　) 平方千米
23 平方米 = (　　) 平方分米	39 平方米 = (　　) 平方厘米
49 公顷 = (　　) 平方米	5100 公顷 = (　　) 平方千米
600 公顷 = (　　) 平方千米	39 平方千米 = (　　) 平方米
44 平方千米 = (　　) 平方米	40 公顷 = (　　) 平方米
90 公顷 = (　　) 平方米	700 公顷 = (　　) 平方千米

B组　变式口算题

1. 在(　　) 里填上合适的面积单位。

(1) 人民广场的面积约为 2(　　)。

(2) 一间房子的面积约是 70(　　)。

(3) 江苏省的面积约 10 万(　　)。

(4) 我们伟大祖国的陆地面积约为是 960 万(　　)。

2. 石河子农场为预防土地沙漠化，栽植了一片长 40 千米，宽 2 千米的长方形防护林，这片防护林的面积是(　　) 平方千米，合(　　) 公顷。

关注微信公众号“教辅资料站”获取更多学习资料

练习7 习题课

用时：___分___秒 错误：　个

A组 常规口算题

◆ 求下面各梯形的面积。

$a=12\text{m}, b=14\text{m}, h=2\text{m}$

$S=(\quad)\text{m}^2$

$a=10\text{cm}, b=30\text{cm}, h=30\text{cm}$

$S=(\quad)\text{cm}^2$

$a=38\text{cm}, b=32\text{cm}, h=40\text{cm}$

$S=(\quad)\text{cm}^2$

$a=9\text{dm}, b=13\text{dm}, h=3\text{dm}$

$S=(\quad)\text{dm}^2$

$a=8\text{mm}, b=12\text{mm}, h=18\text{mm}$

$S=(\quad)\text{mm}^2$

$a=85\text{cm}, b=35\text{cm}, h=4\text{cm}$

$S=(\quad)\text{cm}^2$

$a=17\text{m}, b=23\text{m}, h=9\text{m}$

$S=(\quad)\text{m}^2$

$a=5\text{cm}, b=16\text{cm}, h=8\text{cm}$

$S=(\quad)\text{cm}^2$

260平方米 = (　　)平方分米

700000平方米 = (　　)公顷

380公顷 = (　　)平方米

38平方千米 = (　　)公顷

320000公顷 = (　　)平方千米

170000平方米 = (　　)公顷

5600公顷 = (　　)平方千米

7平方千米 = (　　)平方米

30平方米 = (　　)平方厘米

7平方千米 = (　　)公顷

53公顷 = (　　)平方米

15000000平方米 = (　　)平方千米

78平方米 = (　　)平方厘米

47平方千米 = (　　)公顷

70公顷 = (　　)平方米

85000公顷 = (　　)平方千米

230000平方米 = (　　)公顷

B组 变式口算题

1. 大发房产开发公司新中标一块平行四边形土地，面积是42公顷，底长400米，高是(　　)米。

2. 下图中阴影部分的面积是50平方米，则梯形的面积为(　　)平方米。

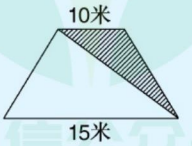

3. 星河电影院第一放映厅有16排座位，第一排有20个座位，往后每一排都比前一排多1个座位，这个放映厅一共有(　　)个座位。

关注微信公众号“教辅资料站”获取更多学习资料

练习8　组合图形的面积

用时：___分___秒　错误：　个

A组　常规口算题

◆ 求平行四边形的面积。

$a=17\text{cm}, h=5\text{cm}$
$S=(\quad)\text{cm}^2$
$a=8\text{cm}, h=12\text{cm}$
$S=(\quad)\text{cm}^2$
$a=30\text{m}, h=21\text{m}$
$S=(\quad)\text{m}^2$
$a=26\text{dm}, h=4\text{dm}$
$S=(\quad)\text{dm}^2$
$a=60\text{m}, h=80\text{m}$
$S=(\quad)\text{m}^2$
$a=130\text{cm}, h=40\text{cm}$
$S=(\quad)\text{cm}^2$
$a=24\text{mm}, h=6\text{mm}$
$S=(\quad)\text{mm}^2$
$a=19\text{cm}, h=20\text{cm}$
$S=(\quad)\text{cm}^2$

◆ 求三角形的面积。

$a=36\text{m}, h=5\text{m}$
$S=(\quad)\text{m}^2$
$a=14\text{cm}, h=6\text{cm}$
$S=(\quad)\text{cm}^2$
$a=40\text{mm}, h=60\text{mm}$
$S=(\quad)\text{mm}^2$
$a=24\text{dm}, h=4\text{dm}$
$S=(\quad)\text{dm}^2$
$a=35\text{m}, h=20\text{m}$
$S=(\quad)\text{m}^2$
$a=11\text{m}, h=8\text{m}$
$S=(\quad)\text{m}^2$
$a=120\text{cm}, h=20\text{cm}$
$S=(\quad)\text{cm}^2$
$a=18\text{mm}, h=6\text{mm}$
$S=(\quad)\text{mm}^2$

◆ 求梯形的面积。

$a=3\text{m}, b=37\text{m}, h=4\text{m}$
$S=(\quad)\text{m}^2$
$a=22\text{cm}, b=44\text{cm}, h=10\text{cm}$
$S=(\quad)\text{cm}^2$
$a=40\text{cm}, b=30\text{cm}, h=40\text{cm}$
$S=(\quad)\text{cm}^2$
$a=12\text{mm}, b=88\text{mm}, h=80\text{mm}$
$S=(\quad)\text{mm}^2$
$a=6\text{dm}, b=84\text{dm}, h=8\text{dm}$
$S=(\quad)\text{dm}^2$
$a=8\text{cm}, b=15\text{cm}, h=20\text{cm}$
$S=(\quad)\text{cm}^2$
$a=32\text{cm}, b=68\text{cm}, h=40\text{cm}$
$S=(\quad)\text{cm}^2$
$a=22\text{m}, b=18\text{m}, h=4\text{m}$
$S=(\quad)\text{m}^2$

B组　变式口算题

1.

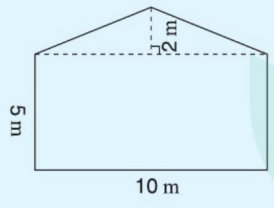

这个组合图形可以分成一个(　　)形和一个(　　)形，其中，(　　)形的面积是(　　)m^2，(　　)形的面积是(　　)m^2，这个组合图形的面积是(　　)m^2。

2.

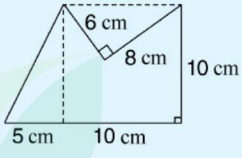

这个图形可以看作用一个(　　)形减去一个(　　)形，其中(　　)形的面积是(　　)cm^2，(　　)形的面积是(　　)cm^2，这个图形的面积是(　　)cm^2。

关注微信公众号“教辅资料站”获取更多学习资料

练习9 不规则图形的认识

用时:___分___秒 错误: 个

A组 常规口算题

- 求平行四边形的面积。

$a=42\text{cm}, h=20\text{cm}$

$S=(\quad)\text{cm}^2$

$a=160\text{m}, h=30\text{m}$

$S=(\quad)\text{m}^2$

$a=31\text{mm}, h=9\text{mm}$

$S=(\quad)\text{mm}^2$

$a=110\text{cm}, h=90\text{cm}$

$S=(\quad)\text{cm}^2$

$a=26\text{dm}, h=3\text{dm}$

$S=(\quad)\text{dm}^2$

$a=60\text{m}, b=40\text{m}$

$S=(\quad)\text{m}^2$

$a=4\text{m}, h=13\text{m}$

$S=(\quad)\text{m}^2$

$a=16\text{cm}, h=6\text{cm}$

$S=(\quad)\text{cm}^2$

- 求三角形的面积。

$a=9\text{m}, h=8\text{m}$

$S=(\quad)\text{m}^2$

$a=12\text{m}, h=7\text{m}$

$S=(\quad)\text{m}^2$

$a=20\text{cm}, h=22\text{cm}$

$S=(\quad)\text{cm}^2$

$a=50\text{mm}, h=12\text{mm}$

$S=(\quad)\text{mm}^2$

$a=14\text{dm}, h=2\text{dm}$

$S=(\quad)\text{dm}^2$

$a=21\text{cm}, h=6\text{cm}$

$S=(\quad)\text{cm}^2$

$a=40\text{cm}, h=12\text{cm}$

$S=(\quad)\text{cm}^2$

$a=30\text{m}, h=14\text{m}$

$S=(\quad)\text{m}^2$

- 求梯形的面积。

$a=12\text{cm}, b=18\text{cm}$

$h=4\text{cm}, S=(\quad)\text{cm}^2$

$a=50\text{m}, b=30\text{m}$

$h=30\text{m}, S=(\quad)\text{m}^2$

$a=36\text{cm}, b=34\text{cm}$

$h=20\text{cm}, S=(\quad)\text{cm}^2$

$a=28\text{m}, b=36\text{m}$

$h=20\text{m}, S=(\quad)\text{m}^2$

$a=19\text{mm}, b=21\text{mm}$

$h=3\text{mm}, S=(\quad)\text{mm}^2$

$a=18\text{dm}, b=42\text{dm}$

$h=8\text{dm}, S=(\quad)\text{dm}^2$

$a=85\text{cm}, b=55\text{cm}$

$h=4\text{cm}, S=(\quad)\text{cm}^2$

$a=27\text{m}, b=33\text{m}$

$h=9\text{m}, S=(\quad)\text{m}^2$

B组 变式口算题

数一数,填一填。(小方格的边长是1 cm)

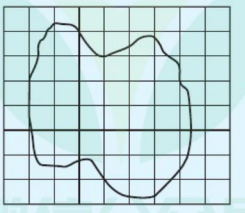

图中,方格纸上满格的一共有(　　)格,不是满格的有(　　)格,因此这个不规则图形的面积在(　　)cm^2 到(　　)cm^2 之间,大约是(　　)cm^2。

关注微信公众号"教辅资料站"获取更多学习资料

练习10　整理与练习

用时：___分___秒　错误：　个

A组　常规口算题

◆ 求平行四边形面积。

$a=36\text{cm}, h=5\text{cm}$
$S=(\quad)\text{cm}^2$

$a=16\text{dm}, h=30\text{dm}$
$S=(\quad)\text{dm}^2$

$a=54\text{m}, h=20\text{m}$
$S=(\quad)\text{m}^2$

$a=80\text{mm}, h=120\text{mm}$
$S=(\quad)\text{mm}^2$

$a=21\text{cm}, h=8\text{cm}$
$S=(\quad)\text{cm}^2$

$a=30\text{m}, h=22\text{m}$
$S=(\quad)\text{m}^2$

$a=90\text{dm}, h=60\text{dm}$
$S=(\quad)\text{dm}^2$

$a=4\text{cm}, h=14\text{cm}$
$S=(\quad)\text{cm}^2$

◆ 求三角形面积。

$a=30\text{m}, h=4\text{m}$
$S=(\quad)\text{m}^2$

$a=60\text{dm}, h=20\text{dm}$
$S=(\quad)\text{dm}^2$

$a=44\text{cm}, h=50\text{cm}$
$S=(\quad)\text{cm}^2$

$a=21\text{mm}, h=8\text{mm}$
$S=(\quad)\text{mm}^2$

$a=18\text{cm}, h=4\text{cm}$
$S=(\quad)\text{cm}^2$

$a=30\text{dm}, h=22\text{dm}$
$S=(\quad)\text{dm}^2$

$a=90\text{m}, h=40\text{m}$
$S=(\quad)\text{m}^2$

$a=26\text{cm}, h=4\text{cm}$
$S=(\quad)\text{cm}^2$

5公顷＝(　　)平方米
40000平方米＝(　　)公顷
18平方千米＝(　　)平方米
600公顷＝(　　)平方千米
34平方千米＝(　　)公顷
60公顷＝(　　)平方米
300000平方米＝(　　)公顷
5平方千米＝(　　)平方米
800公顷＝(　　)平方千米
70000平方米＝(　　)公顷
20平方千米＝(　　)平方米
29公顷＝(　　)平方米
400000平方米＝(　　)公顷
700公顷＝(　　)平方千米
3公顷＝(　　)平方米
14平方千米＝(　　)平方米
5平方千米＝(　　)公顷

B组　变式口算题

1. 求右边图形的面积。

这个组合图形可以分成一个(　　)形和一个(　　)形，其中长方形的面积是(　　)平方厘米，梯形的面积是(　　)平方厘米。这个组合图形的面积是(　　)平方厘米。

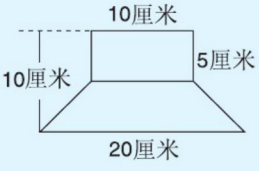

2. 在一块底为80米，高为50米的三角形地里种棉花，如果每平方米种10株，这块地可种棉花(　　)株。

关注微信公众号“教辅资料站”获取更多学习资料

第二单元口算能力测试

用时：___分___秒 错误：　个

A组 常规口算题

◆ 求平行四边形的面积。

$a=27\text{cm}, h=5\text{cm}$

$S=(\quad)\text{cm}^2$

$a=32\text{cm}, h=8\text{cm}$

$S=(\quad)\text{cm}^2$

$a=20\text{m}, h=42\text{m}$

$S=(\quad)\text{m}^2$

$a=100\text{m}, h=70\text{m}$

$S=(\quad)\text{m}^2$

$a=46\text{dm}, h=50\text{dm}$

$S=(\quad)\text{dm}^2$

$a=26\text{mm}, h=4\text{mm}$

$S=(\quad)\text{mm}^2$

$a=51\text{cm}, h=30\text{cm}$

$S=(\quad)\text{cm}^2$

$a=123\text{m}, h=40\text{m}$

$S=(\quad)\text{m}^2$

◆ 求三角形的面积。

$a=25\text{m}, h=8\text{m}$

$S=(\quad)\text{m}^2$

$a=32\text{dm}, h=20\text{dm}$

$S=(\quad)\text{dm}^2$

$a=24\text{cm}, h=6\text{cm}$

$S=(\quad)\text{cm}^2$

$a=60\text{m}, h=40\text{m}$

$S=(\quad)\text{m}^2$

$a=18\text{m}, h=5\text{m}$

$S=(\quad)\text{m}^2$

$a=27\text{mm}, h=20\text{mm}$

$S=(\quad)\text{mm}^2$

$a=100\text{mm}, h=48\text{mm}$

$S=(\quad)\text{mm}^2$

$a=36\text{cm}, h=5\text{cm}$

$S=(\quad)\text{cm}^2$

◆ 求梯形的面积。

$a=16\text{m}, b=14\text{m}, h=12\text{m}$

$S=(\quad)\text{m}^2$

$a=18\text{m}, b=4\text{m}, h=5\text{m}$

$S=(\quad)\text{m}^2$

$a=21\text{dm}, b=23\text{dm}$

$h=10\text{dm}, S=(\quad)\text{dm}^2$

$a=37\text{dm}, b=33\text{dm}$

$h=20\text{dm}, S=(\quad)\text{dm}^2$

$a=54\text{cm}, b=66\text{cm}$

$h=5\text{cm}, S=(\quad)\text{cm}^2$

$a=28\text{cm}, b=32\text{cm}$

$h=6\text{cm}, S=(\quad)\text{cm}^2$

$a=3\text{mm}, b=18\text{mm}$

$h=8\text{mm}, S=(\quad)\text{mm}^2$

$a=7\text{cm}, b=33\text{cm}$

$h=25\text{cm}, S=(\quad)\text{cm}^2$

B组 变式口算题

1. 一块平行四边形的菜地，它的底是12米，高是5米，一共产蔬菜1020千克，平均每平方米产蔬菜(　　)千克。

2. 孙大伯家用70米长的竹篱笆在一块靠墙的空地上围了一个花圃(如图)，这个花圃上底与下底的和是(　　)米，它的面积是(　　)平方米。

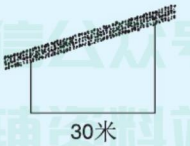

微信公众号 教辅资料站

关注微信公众号“教辅资料站”获取更多学习资料

参考答案

第一单元 练习1（第1页）

A组

8000	4800	9200
2400	756	8400
214	42	6120
6600	7000	210
20000	648	24800
1680	2	45000
9600	5700	1760
3	1380	12900
8240	56000	3
6500	24000	1880
61	80	10
9600	16880	9600
40	6800	16800
48000	91	6
81	636	54900
10000	20500	1050

B组

1. 正数：$\frac{1}{2}$，+5，560

负数：−7，$-\frac{1}{3}$，−90

2. +3　−4

3. +8844　−422

练习2（第2页）

A组

381	5000	6500
10400	1284	9900
136	4800	868
5200	39	8100
6	5600	4
12800	20000	3200
268	9600	392
3	12	22
4200	228	1000
12900	8400	53
9200	3248	4080
42	6	6090
7200	5800	17600
786	102	2456
3360	12600	44
1560	1840	8500

B组

1. −10分
2. +20
3. +4　减少3千克
4. +20
5. −150

第一单元口算能力测试（第3页）

A组

10500	16020	41
492	19200	8400
1160	140	6040
4400	4500	32400
12	605	101
376	6390	2840
11	2910	3810
10200	5700	7200
174	4	168
13500	864	21600
106	9100	3
21070	110	4320
633	23000	1605
23200	3	10800
123	8480	4100
8400	256	15600

B组

1. 从左到右依次为：−4，−2，1，2

2. 5，$+\frac{1}{7}$，180　−10，$-\frac{1}{3}$

3. −200

4. 收入100元

5. 5　87

第二单元 练习1（第4页）

A组

30	680
189	99
3500	90
128	2080
81	4400
96	240
2080	8400
45	540
600	280
220	279
248	96
480	5200
138	3300
14000	154
140	40

B组

1. 360　9600　52

2. 104

3. 3600

练习2（第5页）

A组

15	310
32	24
24	180
100	28
140	18
30	900
1200	150
120	42
22	100
30	80
320	45
50	26
120	240
220	44
1000	60
26	70

B组

1. 36　234　144

2. 150

3. 2

练习3（第6页）

A组

176	330
1500	40
74	3000
336	1440
6600	36
2080	2400
150	84
810	50
36	700
69	45
279	600
660	600
2400	60
98	340
9000	90
720	210

B组

1. 48 cm^2

2. 扩大到原来的5倍

3. 18

请沿此虚线裁剪下使用

教辅资料站

关注微信公众号“教辅资料站”获取更多学习资料

练习 4（第 7 页）

A 组

28400	18600	1000
720	2160	1000
19200	72	150
3	4360	24
9200	9150	120
492	8	42
6840	20550	60
71	9600	64
7800	2500	
2880	19	
7	2520	
816	246	
5600	2	
38	18630	
6900	18330	
92	680	
12600	151	

B 组

1. 9000　104
2. 480
3. 18

练习 5（第 8 页）

A 组

30000	1000
7	280000
1400	200
200000	90000
5	68
25000	34000
320000	150000
40	3
2000000	1100000
30000	69000
480	4500
10000	61
1900000	4000000
6	840000
23000	170000
530000	96

B 组

1. (1)290　(2)2730000
   (3)710000
2. 3000000　300

练习 6（第 9 页）

A 组

4000000	48
8000000	6
2	100000
24000	82
1	63000000
27000000	34000000
60000	100000
14	24
60000000	8
30	62000000
41000	45
2300	390000
490000	51
6	39000000
44000000	400000
900000	7

B 组

1. (1)公顷　(2)平方米
   (3)平方千米　(4)平方千米
2. 80　8000

练习 7（第 10 页）

A 组

26	26000
600	70
1400	3800000
33	3800
180	3200
240	17
180	56
84	7000000
	300000
	700
	530000
	15
	780000
	4700
	700000
	850
	23

B 组

1. 1050
2. 125
3. 440

练习 8（第 11 页）

A 组

85	90	80
96	42	330
630	1200	1400
104	48	4000
4800	350	360
5200	44	230
144	1200	2000
380	54	80

B 组

1. 三角　长方　三角　10
   长方　50　60
2. 梯　三角　梯　125　三角
   24　101

练习 9（第 12 页）

A 组

840	36	60
4800	42	1200
279	220	700
9900	300	640
78	14	60
2400	63	240
52	240	280
96	210	270

B 组

23　22　23　45　34

练习 10（第 13 页）

A 组

180	60	50000
480	600	4
1080	1100	18000000
9600	84	6
168	36	3400
660	330	600000
5400	1800	30
56	52	5000000
		8
		7
		20000000
		290000
		40
		7
		30000
		14000000
		500

B 组

1. 长方　梯　50　75　125
2. 20000

第二单元口算能力测试（第 14 页）

A 组

135	100	180
256	320	55
840	72	220
7000	1200	700
2300	45	300
104	270	180
1530	2400	84
4920	90	500

B 组

1. 17
2. 40　600

第三单元　练习 1（第 15 页）

A 组

5.7	14.9	12.8
2.5	12.6	1.9
9.3	18	22.4
2.6	12.7	13.9
17.2	40.7	4.2
7.9	21.3	9.2

请沿此虚线裁剪下使用

关注微信公众号“教辅资料站”获取更多学习资料

6.7	7.3	19.5
10.3	26.9	20.9
10	13.8	12.4
7.2	4.5	18.9
9.9	29.3	11.9
4.9	15.1	15.7
13.3	9.9	6.1
23.9	12.9	28.8
4.6	17.5	14.1
20	20	15.8

B 组

1. $\frac{2}{10}$,0.2　$\frac{36}{100}$,0.36　$\frac{7}{10}$,0.7　$\frac{5}{10}$,0.5

2. $\frac{8}{10}$,0.8　$\frac{6}{10}$,0.6

练习 2（第 16 页）

A 组

17	30.5	14.8
10.6	18	14.2
2.4	8.9	9.9
10.7	28.3	20
25.9	12.7	1.9
8.9	17.7	8
32.1	14.8	16.8
17	5.5	12.4
6.3	12	22.7
19.1	7.9	27
10.3	17	22.2
2.7	12.4	3.7
16.2	2.7	9.7
4.8	8.7	12.1
20.7	9.5	8.2
7.1	8	14.1

B 组

1. 0.3　0.03　0.003

2. 4　5　6

3. 62

4. 3.56　5.47　1.145　0.35

5个1　5个0.1　5个0.01　5个0.001

练习 3（第 17 页）

A 组

5.7	22.8	8.2
6.3	7.9	21.2
2.6	17.1	10.6
9.5	9.2	22.7
10.8	15.9	11.9
12	8.5	4.7
46.8	7.2	10
3.1	19.3	30.9
9.1	10.5	22.9
8.4	5.8	19.8
40	30.7	15.1
2.8	37.3	14
9	6.2	15.8
20.9	22.6	7.2
0.7	0.8	18
1.5	19	20.3

B 组

1. (1)0.7　1.02　0.23　0.056
   (2)0.7　4.5　0.08　0.36

2. (1)4.57　0.45　(2)50.5

练习 4（第 18 页）

A 组

18.5	16	18.3
21.1	19.4	23.6
18.3	15.4	18
19.9	17.1	7.8
5.9	28.9	27.3
13.1	12.8	12.2
21.8	34.3	2.1
10.8	16	11.7
31.1	3.5	17.1
26.2	22.1	10
15.1	23.8	4.9
40	16.1	19.3
19.4	20	3.9
14	31.8	30.7
18.2	18.4	18.7
13.8	2.7	7.2

B 组

1. 5.000　3.800　7.420　18.000

2. 6.5　9.09　4　10.1

3. 4.040　30　1.0000　0.080　6

6.0　4.04　1.0　30.00　0.08

练习 5（第 19 页）

A 组

7.9	21.2	<
38.4	21.9	<
13.3	4.1	<
21.9	14.7	<
10.5	20.5	>
15.3	35.7	>
9.2	4.3	<
9	12.9	<
2.7	30.5	>
20	34.1	>
20.9	28.4	=
36.5	9.4	>
10.1	20.6	>
27.7	16.4	
8.5	31.9	
19.2	30	

B 组

1. 0.47 < 0.52　0.7 < 0.75

2. <　<　<　画图略

练习 6（第 20 页）

A 组

7.4	14.3	<
2.2	20.1	>
13.9	0.9	<
7.3	9.2	>
11.6	21.1	>
5.4	12.6	<
9.9	6	<
10	5.6	<
11.5	19.3	<
31.4	11.6	>
29.9	22.7	<
20	23	<
18.3	13.2	<
25.1	2.9	
41.2	25.4	
28.6	10	

B 组

1. 3.50　0.80　1.05

2. 4,5,6,7,8,9　0,1,2,3,4
   0,1,2,3,4,5　3,4,5,6,7,8,9

3. (1)13.98 < 14 < 14.01 < 14.09 < 14.10
   (2)0.009 < 0.099 < 0.9 < 0.909 < 0.99

练习 7（第 21 页）

A 组

0.9	0.2730076	3.526
9.5	2.7346	18.603298
6.5	23.35007	2340.608
19.4	7.83	9.002
4.7	4.605	39.2006
13.4	0.0803406	0.2734
20	283.0507	0.5632007
16.5	2004	230.7
15.1	2.35060708	13.9078
5.8	903	2.7095007
12.7	653.0507	46.35
12.6	29.03700063	7.8006
13.3	26.5783	0.22905087
13.7	173.0078	86.8007
7.9	0.0230006	9.2305

B 组

1. (1)3257.3　(2)11.03

2. 11.3 亿　29.63 亿　0.46 亿　250.03407 亿　9.537 亿
   250.03407 亿 > 29.63 亿 > 11.3 亿 > 9.537 亿 > 0.46 亿

请沿此虚线裁剪下使用

关注微信公众号“教辅资料站”获取更多学习资料

练习 8（第 22 页）

A 组

2	9.3	5.47
3	8.6	13.29
8	13.3	7.93
10	25.8	14.04
25	5.9	24.10
4	34.3	8.31
6	19.0	17.26
9	2.7	4.82
1	0.9	31.50
7	16.4	22.79
10	7.7	0.16
2	27.3	9.45
27	30.1	6.21
38	4.3	18.05
17	12.8	2.60
48	30.0	13.82
1	17.2	30.91

B 组

1. = ≈ ≈ =
2. 5 5,9 1 9（前 4 个空答案不唯一）

练习 9（第 23 页）

A 组

<	24.45	0.65
<	13.24507	3.73
<	123.08	12.01
>	0.2567	0.68
>	2.74	1.08
<	320.050782	8.45
<	4.2452	3.99
<	5.03062079	5.26
>	0.03005628	17.00
>	62587.4302	2.10
=	15.4460024	0.53
>	30.0407	10.00
<	2178.5939	13.05
	73.00403201	8.74
	0.04030445	6.76
	9.2876	

B 组

1. (1)30.08 (2)300.8 (3)3.080（本题答案不唯一）
2. 4,5 11,12 6,7 0,1

第三单元口算能力测试（第 24 页）

A 组

<	24.78	0.8
>	13.4056078	9.0
<	3044.0692	11.1
<	0.27886607	6.5
<	443.006	9.7
>	0.7486	3.7
=	19240.0934	0.9
>	0.02607863	9.1
<	1.984067	1.1
<	230.4678	17.1
>	25.50934432	2.0
<	0.00273	50.1
<	36.9204	98.1
	100.2065	3.9
	0.42067803	10.0
	0.3928	

B 组

1. 80.08 八十点零八 80.1
2. 4 3 7 百分之一
3. 6.42 > 6.24 > 4.62 > 4.26 > 2.64 > 2.46

第四单元 练习 1（第 25 页）

A 组

4.24	5.02	0.08
0.46	19.9	2.28
19.24	11	26.05
6.1	1.03	8.88
3.35	7.59	20.7
8.89	7.97	16.18
4.73	9.58	3.12
4.8	26.4	12.9
4.8	8.92	21.2
1.13	3.22	6.89
6.05	1.13	16.5
3	4.23	12.9
0.96	15.3	6.42
17.7	25.5	18.87
6.23	4.12	1.16
9.2	20.7	1.13

B 组

1. 13.44 10.24 10.7 11.81
2. 1.54 1.32
3. 53

练习 2（第 26 页）

A 组

6.3	9.67	8.4
2.32	5.33	1.31
14.6	17.8	7.9
10.23	16.95	4.2
4.5	18.1	1.31
15.38	3.13	1.2
8.1	10.1	8.99
8.93	19.78	5.63
2.2	2.7	3.34
7.6	26.4	12.92
19.7	8.97	1.11
0.07	12.05	7.5
4.77	8.2	1.03
7.8	7.06	9.98
16.78	1.34	21.38
10.6	9.35	15.72

B 组

1. 2.54 0.27 6.3 1.88
2. 9.36
3. 14.5

练习 3（第 27 页）

A 组

14.9	6.3	6.59
2.2	18.9	5.24
13.12	24.2	10.54
4.4	4.22	7.7
28.78	4.7	8.18
6.33	7.89	6.23
2.12	5.32	11.88
6.3	1.16	0.3
17.88	10.2	14.15
2.36	6.46	4.37
9.88	3.6	12.69
6.2	14.15	6.8
8.94	0.18	11.33
1.34	9.7	3.34
4.22	1.14	20.73
6.5	15.59	3.5

B 组

1. 20.32 8.74 3.06 14.54
2. 11.83
3. 1.5

练习 4（第 28 页）

A 组

6.76	5.4	1.02
4.17	3.13	8.23
2.32	3.33	3.12
4.5	8.84	19.8
8.2	1.5	18.28
16.63	22.82	3.06
4.26	4	3.22
6.14	1.18	8.68
10.06	15.59	0.6
1.1	8.5	4.9
12.3	9.87	2.38
9.63	5.1	2.42
1.33	11.73	5.16
9.93	11.9	15.78
3.4	5.13	19.5
6.34	3.37	19.34

B 组

1. 19.24 11.96
2. 9.26
3. 2.9
4. 15.6

第四单元口算能力测试（第 29 页）

A 组

5.94	12.4	5.98
0.5	8.57	3.1
2.12	7.97	5.8

请沿此虚线裁剪下使用

关注微信公众号“教辅资料站”获取更多学习资料

3.62	10.1	10.54
18.98	15.13	1.7
4.3	17.63	3.46
12.2	3.57	4.45
5.21	4.6	8.95
1.25	2.27	18.1
8.79	13.9	2.04
5.4	11.23	1.98
15.2	6.14	6.63
11.45	0.2	8.48
9.84	4.17	11.3
12.13	2.06	5.31
0.27	18.43	1.31

B 组

1. 11.78　23.84
2. 3.5
3. 6.9
4. 4.78　2.32

第五单元　练习 1（第 30 页）

A 组

9.6	30.6	100
9	47	11.2
3.6	78	22
12.8	6.5	11.1
8.4	11.5	12.6
7.4	9.6	24.5
8.4	1.9	7
0.6	31.8	7
7.2	5.8	1.5
17.2	6.9	13.2
36	12	9.1
4.3	7.8	9.1
40.5	2.8	54.9
12.8	6	36.8
3.3	15.4	2.8
10.8	12.6	21

B 组

1. 57.4　574.0　57.40　574.00
2. 31.5　111.8　42.56　236.13
3. 13.8

练习 2（第 31 页）

A 组

7.2	62	1.68
0.76	1.26	5250
70	34.4	1.28
412	72	4.86
6.24	28.8	512
4.9	60.4	56.8
7.14	40.76	20.7
10.5	240	336
150	7.2	33
10.8	21.14	1.75
30.5	13.2	2.64

14.35	31.8	7.84
4.72	8	24
2.24	68	5.8
16.88	25.8	11.2
123	9.45	13

B 组

1. 58　760　4500　18　4056　230
2. 10　10　1000　100　1000　1000
3. 3.5　35　350
4. 148.5　1485　14850

练习 3（第 32 页）

A 组

0.8	1.3	1.7
3.3	1.7	0.6
0.5	0.7	1.7
1.4	1.9	1.2
2.6	0.2	3.4
2.4	1.4	2.5
1.2	0.11	0.02
0.04	1.6	0.2
1.6	0.5	1.5
2.4	1.4	1.3
1.2	0.5	0.2
8.1	2.4	3.22
1.1	0.6	2.3
0.5	0.42	0.06
1.5	0.2	0.02
1.5	1.8	2.6

B 组

1. 2.3　0.55　3.08　0.83
2. 0.65
3. 5.6

练习 4（第 33 页）

A 组

1.5	3.2	0.26
0.12	1.1	0.66
0.48	8.4	1.9
0.75	0.9	1.5
1.6	1.1	2.48
0.6	0.105	3.2
1.9	1.3	0.21
2.5	0.75	0.63
0.021	0.85	1.7
4.5	0.5	2.17
4.1	1.2	1.3
1.4	1.2	1.8
0.65	2.7	4.1
0.96	0.6	9.5
1.04	1.4	6.05
0.4	2.5	5.2

B 组

1. 5.8　4　3.4　4.7
2. 0.085

练习 5（第 34 页）

A 组

30.4	4.4	2700
0.024	2.58	0.36
0.09	29.7	0.762
0.69	0.34	456
506	2.8	1.65
0.04	147	230
25.2	0.128	18
0.7	3.4	4
0.09	19.6	3.864
18.4	4.3	19
0.11	0.05	600
0.6	67	0.43
24.9	39	523
1.4	1.4	4500
0.41	32.4	7.6
28.8	1.08	8250

B 组

1. >　<　=　>
2. 64.8
3. 1.5

练习 6（第 35 页）

A 组

1.24	4.48	32.2
1.29	90	2.88
11.2	2.72	1.45
3	1.26	4.32
1.26	1.35	274
1.38	1.89	2.52
37.2	1.08	2.31
1.6	2.2	32
2.16	1.35	6.9
7.83	8.56	2.01
32	1.47	1.76
4.76	1.2	5.4
1.92	4.8	1.52
1.85	2.4	9.36
68	2.52	6.39
1.08	2.32	3.3

B 组

1. (1)三　(2)一　(3)三
2. 3.35　11.571　0.38

练习 7（第 36 页）

A 组

0.48	0.104	0.0028
0.0224	0.072	0.115
480	288	0.2184
0.56	0.048	56.08
9.8	8.08	0.186
0.084	0.18	56
1.2	0.52	0.0066
0.078	2.24	0.0175
1.05	0.132	0.0048
1.75	0.48	84

请沿此虚线裁剪下使用

关注微信公众号“教辅资料站”获取更多学习资料

0.0448 0.12 0.32
0.224 0.0068 4.18
0.168 0.015 1.29
0.565 135 0.054
0.31 138 23.2
0.726 1.7 0.96

B 组

1. 39 3.9 3.9 0.39 0.039
2. 1.71
3. 0.8

练习 8（第 37 页）

A 组

1050 4.8 0.9
0.54 9.1 1.0
14.35 84 1.9
0.078 0.072 3.1
20.52 0.72 0.4
35.5 7.2 0.9
75 12.15 80.2
1.048 100 1.7
12.9 0.238 2.8
0.235 4.2 9.0
0.96 0.19 5.2
20.8 208 0.5
0.0048 33 0.7
0.216 9.45 0.2
1.25 138.9 0.1
16.08 1120

B 组

1. 0.61 2.40 0.01
2. 134.9 87.69

练习 9（第 38 页）

A 组

0.028 0.0048 0.0092
48 0.108 15.6
8.7 288 0.672
0.0078 0.216 0.0055
101.2 7.32 6.72
3.505 9.72 13.5
210 16.2 1.026
9.72 162.4 1.5
0.5 2.38 0.256
1.35 0.318 840
0.288 0.19 0.168
9.6 2.08 10.18
1.68 0.39 0.09
0.1006 0.945 0.0324
16.4 0.138 1.58
12.06 8.75 1.428

B 组

1. > > > = > > < <
2. 10.8
3. 0.13

练习 10（第 39 页）

A 组

0.4 0.1 8
8 0.2 5.05
7.3 1.25 1.2
9.6 201 2.1
20.2 0.6 9
1.2 15 0.1
2.9 1.7 0.4
3 0.2 0.1
0.3 71 12
4.5 0.8 0.08
0.4 19 24
0.5 3 3
2 2.5 1.6
1.4 5 0.62
0.5 3 0.9
0.25 0.2 0.5

B 组

1. 246 2.5 157.5 912
2. 12.6 1.7 23 26
3. 14

练习 11（第 40 页）

A 组

5 3 0.02
4 5.5 40
2 2 10.1
0.9 30 600
8 202 0.4
10 50 8.1
4 40 13
5 3 120
61 0.3 50
2 310 300
1300 8 50
11 80 40
3 45 30
4 35 50
10 150 60
2 30 90

B 组

1. 30 30 30 0.11 1.1 11
2. 11 510 310

练习 12（第 41 页）

A 组

0.3 0.2 3
30 25.4 40
300 5 0.81
5 2 0.08
0.3 3.3 50
700 1.8 0.6
700 50 0.02
5 40 1.2
0.2 0.03 410
16 0.87 300
2.1 8 2.4
2100 30 0.05
300 0.9 1.1
6 0.3 0.3
2 4 30
28 202 130
1.1 2 11
3.1 150 50

B 组

8 8.2 8.24
1 1.2 1.16
1 1.1 1.14
1 1.3 1.27

练习 13（第 42 页）

A 组

11 0.8 60
90 5 8
20 20 0.02
30 620 253
16 5 40
2 50 60
40 30 0.2
0.08 0.2 50
0.81 81 2
40 20 0.08
90 30 200
100 0.25 110
0.3 20 40
180 30 20
35 2 5
20 0.5 7
20 5 300

B 组

1. 65
2. 7
3. 21
4. 16

练习 14（第 43 页）

A 组

0.9 1.5 3.1
2.5 0.2 40
21 80 5.5
10 2.7 70
2.7 40 0.1
3 0.9 3
4.2 4 1.1
61 0.7 0.8
14.1 6.1 50
910 1220 80
20 0.3 100
0.8 25 4.5
1.8 0.6 1.2
0.5 4.2 2
120 9.6 2.3
90 30 60

请沿此虚线裁剪下使用

关注微信公众号“教辅资料站”获取更多学习资料

B 组

1. > < = < > =
2. 2.7
3. 74

练习 15（第 44 页）

A 组

0.0056	2.14	8.93
4.52	0.217	19
63	0.21	30.24
90	0.072	40
0.484	7.26	7
1.4	8	7.6
6.15	0.81	8.5
1210	27.1	17.2
72	0.0098	4.3
3.7	61	312
3.15	0.24	2860
3.6	7.15	9.6
1.08	1.1	0.6
70	50	32
6.07	1.239	0.4
1.206	250	0.6

B 组

1. 2.1 × 4 3.27 8 6.73 0.4 12.3 × 10 0.2 10 124 0.2 124
2. (1)210 (2)460

练习 16（第 45 页）

A 组

6.21	0.15	0.4
0.6	740	7
40	10.51	1.2
2.5	2	200
20	1.6	0.24
3.54	10	32
10	7.8	40
20	140	260
0.488	4.2	49.5
1.3	2.24	42
1	7.51	100
9	2.46	50.5
100	15.2	110
0.4	10	980
102	21.5	36
9.9	0.4	150

B 组

1. × 18.43 × 85.85
2. 58
3. 10.2

练习 17（第 46 页）

A 组

0.3	17	4.6
10.2	0.035	4.3
0.8	5.18	27
1.92	1.2	10.8
170	0.138	100
1.94	80	9
1.3	0.081	80
0.68	6.52	42
1.05	120	73
1.04	0.048	700
2.5	0.72	1.03
71	4.41	0.8
2.88	0.175	0.061
0.119	6.4	0.7
1.07	10	4
0.832	1.6	8.4

B 组

16 9 7 6 7 6 1.5
16 9 9 1.5 13.5 7 3
1.5 2.5 13.5 2.5 16

第五单元口算能力测试

（第 47 页）

A 组

5	1.65	1.4
2.6	48	35
1.7	7.72	3
1.99	0.2	2.3
1	10.5	0.5
10	0.22	2.8
0.6	0.0056	90
1.84	2.2	14
0.27	2	2
1.24	30	12
2.46	0.7	0.061
90	14.07	0.28
0.096	0.5	7
11	30	0.4
12	21	1.8
0.5	6.15	1.44

B 组

1. 243
2. 1.5
3. 22.2
4. 2.4

第六单元 练习 1（第 48 页）

A 组

6	3	0.07
8.73	6.01	3.6
0.4	756	8
20	1.43	20
10	0.9	1.2
10	7.48	0.4
0.56	0.7	4.92
2.21	0.05	0.23
175	3	0.7
0.5	1.56	17
0.04	2	0.54
5.69	0.52	0.18
10	36	0.75

B 组

1.

85	44	41
42	23	19
43	21	22

2. (1)85 44 41
(2)(1) (2)

练习 2（第 49 页）

A 组

52	6	40
6.93	3.6	5
20	7.44	4.4
50	5	6.12
29	6.12	25.2
5	0.96	0.3
1.4	0.7	300
0.1	5.33	4.9
1.4	0.3	180
1.2	30	0.1
8	5.84	10.2
0.3	7.56	40
4.6	0.06	1.92
20	0.33	0.19

B 组

1. 复式条形
2. 六 220
3. 30 150

第六单元口算能力测试

（第 50 页）

A 组

0.2	2.5	10
3	8.4	4
0.7	1.08	1
20	0.078	0.8
1.48	0.8	4.6
7.3	9.42	0.11
2.5	2.5	9.09
61.2	3.6	3.25
2.88	0.4	65
3.5	0.24	0.224
23.1	1.19	0.9
4	0.9	14.4
10.4	0.56	20
16.5	6.3	14.56
5.76	40	1.25

B 组

略

第七单元 练习 1（第 51 页）

A 组

0.57	12	0.024
0.8	2.92	8.65
3.06	48	2.88
4600	9.1	0.8
21	1.4	0.053

请沿此虚线裁剪下使用

关注微信公众号“教辅资料站”获取更多学习资料

6.6	1.24	1.9
22.82	11.4	0.1
0.8	0.2	1.4
11.2	8.48	9.1
41	4.56	46.7
3.32	70	15
210	0.054	3.92
81	70	3.89
6	2.32	0.9
0.048	5.14	0.969

B 组

1. 7 时 30 分(表格略)

2.

0	1	2	3
3	2	1	0
−60	0	60	120

练习 2（第 52 页）

A 组

4	1.08	9
7.77	3.4	18.24
0.56	1.87	0.07
0.396	2.35	13.54
2.52	0.39	0.77
30	0.156	3.1
97	7.15	1.32
8.37	3.4	0.0029
7	1.2	15.96
0.1	8	0.096
30	15.73	98
11.9	4.26	1.8
10	2	1.5
21	4.84	5.2
0.836	12.6	4.86

B 组

1.



9 种

2. 6

练习 3（第 53 页）

A 组

3	978	4.08
2.4	3.81	0.079
5	20.5	0.135
3.24	2.1	5.2
0.37	0.074	9.63
1.236	4.26	0.2
2	23	11.21
1.68	2	0.56
13.35	0.72	3.21
1.92	2	13.43
0.8	6.89	9
25.6	0.54	0.684
39	5	37
17.9	2900	18.5
1.68	0.03	7.79
2	1.38	30

B 组

1. 5

2. 30

第七单元口算能力测试

（第 54 页）

A 组

11.18	6.6	9.08
8.24	14.16	3
3.93	15.14	5.42
0.7	71	1.68
0.5	11.6	4.86
16.83	6.9	20
12.12	6.97	3.24
23.8	13	9.94
19	30.9	90
0.56	3	4.62
16.68	10.7	11.15
12.14	5.5	250
0.15	14.24	16.04
7.2	12.16	6
72.8	60	9.96
4	12.17	6

B 组

1. 6　12

2. 6

3. 10

第八单元　练习 1（第 55 页）

A 组

0.63	0.4	3250
3.79	37.2	5.35
9.17	15.56	60
41	40	11.82
12	3.84	4.25
0.84	4.2	1.45
11.1	0.052	0.0324
2740	15.14	6.59
2.88	80	5.24
17.74	2.96	0.117
23	8.47	17.2
6.58	4.7	0.5
13.38	3.12	2
160	1.52	7.67
6.24	0.26	6.32
4	3.14	2.849

B 组

1. $5b$　ca　a　x^2

2. (1) $15x$　(2) $\frac{y}{300}$　(3) $a-200$　(4) $a+4$

练习 2（第 56 页）

A 组

0.3	14.1	5.1
5.67	40	0.054
1.2	0.084	12.22
17.2	3.43	0.0642
33.6	19.56	6.6
4.25	16	1.62
4.33	0.069	21.4
2	13.24	8
380	0.7	19.58
14.23	11.29	0.054
11.92	20	3.5
3	18.89	14
3.54	3.7	16.98
0.54	12.43	13.28
6.9	0.45	3.24
17.26	1.2	5.14

B 组

1. (1) $200+x$　(2) 220

2. (1) $5n+2$　(2) 17

3. $7a+8b$　370

练习 3（第 57 页）

A 组

6.09	6.6	8.77
1.1	0.27	0.8
7	1.44	1
7.98	0.4	1.16
20.45	3.3	5.95
0.42	2.35	0.26
6.5	4.43	0.21
12.31	6	14.06
5.2	9.96	16
7.87	1.68	2.21
2.3	20.7	0.6
29	20	15.9
6.97	0.0027	6.54
40	8.13	2.46
0.216	4.43	3280
3.76	7	51

B 组

1. $80a+480$　720

2. $30b-80$　70

3. $a-13+28$　840

练习 4（第 58 页）

A 组

4	6	$5x$
0.1	0.78	x
20	16	$20x$
4.45	0.3	$0.2x$
4	2.12	$4.7a$
0.92	0.64	$4x$
1.2	0.5	b
0.76	0.7	$3.8x$
0.38	340	$20d$
3.95	0.605	$0.8b$

请沿此虚线裁剪下使用

关注微信公众号“教辅资料站”获取更多学习资料

4.1	40	$4.2x$
820	3.12	$0.49b$
100	35	a
5.7	0.006	$2.2b$
14	18	$1.3d$
5	2.9	$8.97b$

B 组

1. $10a$
2. $3b$
3. (1) $160a$ (2) 8000
4. $4x$ 80

练习 5（第 59 页）

A 组

5	10.4	$6x$
3.69	2.3	$11x$
6.94	16.8	$5.4x$
0.05	0.2	$4.7a$
5	3.75	$9x$
2.8	16	$4.1b$
0.8	0.077	$2.6x$
2.2	6.61	$16d$
8	0.65	$7b$
2.21	20	$1.5x$
1.41	1.05	$1.32b$
0.02	2.8	$0.94x$
4.1	0.48	$6a$
0.729	2	$2.2b$
3.14	63.9	$3.4d$
8	0.7	$3.7b$
4	36	$2.2x$
20	0.15	$9b$

B 组

1. b a x x b c m b c
2. $500-15m$ 50
3. $180-3x$ 90

第八单元口算能力测试

（第 60 页）

A 组

0.21	16.77	$3x$
10.8	0.117	$21a$
4.59	20	$8.5x$
4	10.5	$13a$
250	9.69	$8b$
15.95	36.45	$22x$
6	6.04	$5x$
0.96	120	$9.9a$
2.88	11.9	$10a$
0.78	21	$9.5x$
6.5	76	$18b$
2.71	19.9	$9.6x$
11.4	0.7	$8x$
0.12	17.96	$4.8a$
5.19	5.26	$2.64b$
2.87	1.41	$3x$

B 组

1. $30(a+b)$
2. $270-vt$ 90
3. $3a-4$ $4a-4$

第九单元 练习 1（第 61 页）

A 组

86	9600	7
3900	140	2160
32	40	12
14700	61	252
6	9000	20
226	9	16800
150	27900	16
18600	15	30000
20	210	180
5000	12	1680
6	3690	9
7200	16	4600
130	40100	81
520	12	7200
31	5600	20
480	8	416

B 组

1. 正数：$+\frac{1}{2}$ 12 $+78$

   负数：-4 -8 $-\frac{3}{2}$
2. 地下 3 层 地上 5 层 -4 层
3. $+6$ -2

练习 2（第 62 页）

A 组

4000	600	22
48	45	30
6	1200	33
133	6	120
50	7	$\frac{80}{19}$
48	6	6
3	8	4
340	8	18

B 组

1. 27000
2. 450

练习 3（第 63 页）

A 组

>	18.7	4.4
<	23.4	5.7
<	32.87	5.0
>	2.4	1.2
<	32	7.5
<	3.959	12.5
>	3.6	4.0
>	78.9	7.9
>	0.12	12.1
<	17.9	13.0
<	5.6	56.8
<	34.5	6.7
<	1.204	3.7
>	6.71	8.5
	3.7089	

B 组

1. 73 9 6
2. 60.606 六十点六零六
3. 8
4. 0.351 0.352 0.353 0.354 0.355 0.356 0.357 0.358 0.359
5. 0.084 0.48 4.08 4.8 8.04

练习 4（第 64 页）

A 组

13.5	9.5	4.6
0.6	22.4	13.8
15.3	0.4	1.4
6.4	9.32	25
16.3	2.6	4.28
0.1	4.4	6.8
5.3	10.91	1.26
2.2	0.6	9.4
12.61	11.92	9.51
1.61	8.7	3.7
14.2	9.22	75.2
3.77	1.5	10
21.5	11.73	0.2
2.5	0.47	2.12
2.5	11.2	1.93
1.36	2.21	5.4

B 组

1. 22.15 25.38 6.21 16.64
2. (1) 46.65 (2) 3.35

练习 5（第 65 页）

A 组

0.86	8.4	0.17
7.97	1.41	4.2
2	37.8	3.58
0.042	0.0329	110
11.28	2.23	12.6
0.9	9.81	550
8.8	20	53
5.8	31	73.4
0.6	18.68	85
0.92	0.18	48.96
14.44	40	57
21.6	9.45	94
2.8	8.65	6.9
11.27	2.08	9
120	0.2	0.45
48	30.05	56.43

请沿此虚线裁剪下使用

关注微信公众号“教辅资料站”获取更多学习资料

B 组

1. 16750　12　17　9800　0.27　43
2. 0.92
3. 118.8
4. 4

练习 6（第 66 页）

A 组

0.96	0.063	20
42	2.3	3.4
4.8	2.59	5.4
0.12	4.02	2.52
0.72	3.01	3.67
0.5	2	3
1.86	0.15	0.09
3	0.09	5.3
0.42	0.245	19.2
0.04	4.14	80
0.36	2	0.6
0.3	0.249	1
20	60	0.5

B 组

图略

1. 11　11
2. 40

练习 7（第 67 页）

A 组

1.35	3.51	830
0.078	24.8	16.5
17.49	4.4	0.5
0.42	0.2	5.74
3.38	0.189	1.95
2.1	6.13	6.61
11.83	0.47	16
6.96	8.96	12.3
530	1.04	18.36
11.25	2.47	6.15
70	15	3
0.568	1.23	8.88
8.5	15.8	0.0074
7.87	0.165	0.66
2	9	2.88
16.1	1.05	30

B 组

1.

1	5	9
6	3	0

3 种

2. 6

练习 8（第 68 页）

A 组

0.84	8	$11x$
0.05	1.56	$7a$
4.78	0.0126	$22b$
323	0.02	$81x$
2	12.93	$26b$
5.2	0.8	$8.1a$
0.3	7.2	$9x$
0.16	11.83	$4a$
19.78	8	$3.2x$
4	70	$10.3b$
2.28	20	$7.1x$
0.048	10.4	$8a$
0.4	52	$25x$
6.16	3.84	$9.1b$
0.036	90	$3.79x$
1.8	0.144	$3.26x$

B 组

1. (1) 实际用完的天数
   (2) $25(x-a)$
   (3) 250
2. (1) $3a-3$　$4a-3$
   (2) 42　57

口算能力期末综合测评（一）

（第 69 页）

90	27	400
0.65	44	180
0.24	120	10
1800	48	600
4	180	1.2
5	6	42
3	6	4
5	9	4
10	6	1.8
6	7	10
7	4	1
4	4	24

口算能力期末综合测评（二）

（第 70 页）

1.08	6.3	80000
8.69	3.69	20000
4	16.1	700
21.37	40	8000000
3.618	7.76	72000
2.19	6.8	7
0.7	40.32	580
2.25	2	300
42	18.7	4.5
1.7	1.29	0.3
9.08	5.34	3.2
0.4	4.8	9
8.76	9.1	130000
0.056	10.36	2500
13.83	800	45
0.72	13.3	240
0.072	18.73	12
4.94	2	5
3.41	0.52	110000
90	11.18	180
5.5	0.079	
1.12	0.075	
20	2.64	
7.87	0.2	

口算能力期末综合测评（三）

（第 71 页）

40	17.5	1.6
0.184	1.14	6
8.69	0.5	1.5
1.35	0.108	77
3200	14.34	8
6	24	1.94
9.15	60	2
8.4	0.0792	0.906
1.6	18.22	1
0.75	0.028	7.64
7	0.7	4.9
4.83	0.48	11
0.045	19	6.8
12	10.2	8
1.44	930	9
0.37	20	9.8
4.16	6.48	0.048
8.56	760	3
130	17.3	278
1.8	8.8	74
40	5.3	8.9
20	1.6	56
2.5	2.52	0.75
3.36	9.81	5.6

口算能力期末综合测评（四）

（第 72 页）

16.98	0.046	$0.6x$
0.92	9.1	$9a$
4.4	2.1	$2b$
30	8.86	$5x$
18.6	4.4	$24a$
0.63	19.94	x
5.86	630	$1.6b$
0.77	5.54	$18x$
0.9	10	$31b$
3.53	0.9	$2.1a$
270	6.22	b
2.74	4.1	$3.42x$
0.425	2.34	$11a$
1.47	2.23	$6x$
14.61	3	$18b$
0.6	12.47	$6.6a$
2.06	0.172	$13x$
1.92	20.23	$3.8b$
49	0.64	a
12.23	3	$11x$
2	0.66	$6a$
3	11.18	$1.9a$
5.2	0.696	$8x$
1.8	12.3	$4.36a$

请沿此虚线裁剪下使用

关注微信公众号“教辅资料站”获取更多学习资料



口算脑算用心算
巧算速算不难算

荣德基官方网站:
http://www.rudder.com.cn
荣德基天猫旗舰店:
http://rongdeji.tmall.com
客服热线：182 1039 5892
荣德基小学频道
获取最新教育资讯
ISBN 978-7-5336-8916-2
9 787533 689162
定价：22.90元

关注微信公众号“教辅资料站”获取更多学习资料