荣德基小学系列

教辅资料站

电子教辅　试卷练习
知识总结　备课资源

扫码关注获取更多学习资料

星级口算天天练

五年级 数学 下

主 编：荣德基　本册主编：王婷婷

荣德基星级口算天天练



学 校：

班 级：

姓 名：

喜欢的格言：

时代出版传媒股份有限公司
安 徽 教 育 出 版 社

目录

CONTENTS

第一单元　中国的热极——认识负数

练习1　认识负数 …… 1
练习2　习题课 …… 2
第一单元口算能力测试 …… 3

第二单元　校园艺术节——分数的意义和性质

练习1　分数的意义 …… 4
练习2　真分数、假分数 …… 5
练习3　习题课 …… 6
练习4　分数与除法的关系 …… 7
练习5　假分数化为整数或带分数 …… 8
练习6　习题课 …… 9
练习7　分数的基本性质 …… 10
练习8　习题课 …… 11
练习9　回顾整理 …… 12
第二单元口算能力测试 …… 13

第三单元　剪纸中的数学——分数加减法（一）

练习1　最大公因数 …… 14
练习2　习题课 …… 15
练习3　约　分 …… 16
练习4　同分母分数加减法 …… 17
练习5　习题课 …… 18

荣德基星级口算天天练
微信公众号 教辅资料站

关注微信公众号“教辅资料站”获取更多学习资料



练习6　连加、连减 …… 19
练习7　习题课 …… 20
练习8　最小公倍数 …… 21
练习9　习题课 …… 22
练习10　分数与小数的互化 …… 23
练习11　习题课 …… 24
第三单元口算能力测试 …… 25

第四单元　走进军营——方向与位置

练习1　位　置 …… 26
练习2　习题课 …… 27
练习3　方向与位置 …… 28
练习4　行走路线 …… 29
第四单元口算能力测试 …… 30



第五单元　关注环境——分数加减法（二）

练习1　通　分 …… 31
练习2　习题课 …… 32
练习3　异分母分数加减法 …… 33
练习4　习题课 …… 34
练习5　连加、连减、加减混合 …… 35
练习6　习题课 …… 36
智慧广场 …… 37
第五单元口算能力测试 …… 38

第六单元　爱护眼睛——复式统计图

练习1　复式条形统计图 …… 39
练习2　习题课 …… 40
练习3　复式折线统计图 …… 41
第六单元口算能力测试 …… 42



微信公众号 教辅资料站

关注微信公众号“教辅资料站”获取更多学习资料

第七单元　包装盒——长方体和正方体

练习 1　长方体和正方体的认识 …… 43
练习 2　习题课 …… 44
练习 3　长方体和正方体的表面积 …… 45
练习 4　习题课 …… 46
练习 5　体积和体积单位 …… 47
练习 6　容积和容积单位 …… 48
练习 7　习题课 …… 49
练习 8　长方体和正方体的体积 …… 50
练习 9　习题课 …… 51





练习 10　求不规则物体的体积 …… 52
练习 11　习题课 …… 53
练习 12　整理与复习 …… 54
第七单元口算能力测试 …… 55

回顾整理——总复习

练习 1　认识负数 …… 56
练习 2　分数的意义和性质 …… 57
练习 3　分数加减法（一） …… 58
练习 4　方向与位置 …… 59
练习 5　分数加减法（二） …… 60
练习 6　复式统计图 …… 61
练习 7　长方体和正方体 …… 62
口算能力期末综合测评（一） …… 63
口算能力期末综合测评（二） …… 64
口算能力期末综合测评（三） …… 65
口算能力期末综合测评（四） …… 66
参考答案 …… 67

荣德基星级口算天天练
微信公众号 教辅资料站

关注微信公众号“教辅资料站”获取更多学习资料

第一单元 中国的热极——认识负数

练习1 认识负数

用时：____分____秒　错误：　个

A组 常规口算题

0.7 ×0.3 =	2.5 ×0.2 =	1.25 ÷0.25 =
1 −0.08 =	0.7 ×4 =	3.9 +0.39 =
4 ÷0.25 =	6 −0.025 =	0 ÷3.5 =
4.8 +5.2 =	30 ×0.1 =	0.13 ×7 =
10 ×0.05 =	8.1 ÷9 =	100 −35.22 =
0.05 ×4 =	4 ×0.3 =	0.9 ÷0.45 =
12.5 ×8 =	2.3 ×4 =	3.25 ×0 =
0.4 ×50 =	5.1 ÷0.17 =	2.6 ×3 =
4.5 ×2 =	7.8 +0.22 =	2 −0.64 =
4 ÷0.5 =	0.35 ×0.2 =	7.5 ×0.1 =
0.28 ÷1.4 =	9 ×0.5 =	1.25 ×8 =
3.6 +6.3 =	0.05 ×6 =	3.5 ×0 =
9.6 ÷16 =	0.37 ×0.2 =	1 ÷0.01 =
0.9 ×0.3 =	0.81 ÷9 =	1 ×0.06 =
0.01 ÷1 =	3.5 ×0.01 =	7.5 ÷1.5 =
3 ÷0.5 =	10 ÷25 =	4.8 ÷0.16 =

B组 变式口算题

写出下面温度计上显示的气温各是多少，并读一读。

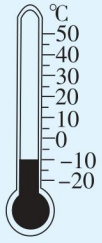

(　　)℃

读作(　　)



(　　)℃

读作(　　)



(　　)℃

读作(　　)

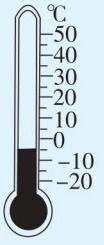

(　　)℃

读作(　　)

荣德基星级口算天天练
微信公众号 教辅资料站

关注微信公众号“教辅资料站”获取更多学习资料

练习2 习题课

用时：____分____秒 错误：　个

A组 常规口算题

0.27 ×4 =	9 −0.52 =	3.2 ×3 =
0.34 ÷17 =	1.2 ×6 =	8.2 +1.8 =
0.2 ×0.4 =	2.35 ÷5 =	0 ×3.52 =
8.4 ÷7 =	6 ×0.3 =	7.8 ÷1.3 =
0.72 ÷0.6 =	0 ÷3.65 =	7.8 ÷2 =
1.47 ÷0.7 =	3.06 ÷0.6 =	5.4 ÷0.9 =
4.2 ×3 =	11.2 ÷1.4 =	0.48 ÷0.8 =
5.5 ÷0.11 =	3.2 ×0.4 =	0.3 ÷0.01 =
3.4 −1.4 =	5 ×400 =	75 ÷10 =
2.19 +9.1 =	0.96 ÷0.8 =	7.82 −7.2 =
5 ×0.26 =	1 +3.89 =	6400 ÷800 =
0.68 +0.42 =	1.5 ×7 =	0.83 −0.5 =
0.8 ×5 =	0.8 +0.18 =	0.5 ×0.3 =
19.9 +11.1 =	8.1 −5.1 =	7.2 ×0.8 =
0.728 −0.24 =	0.05 ×4 =	2.01 ×0 =
4 ×50.3 =	430 −250 =	12.8 ÷4 =
1.75 +32.5 =	5.2 ÷13 =	16 −5.07 =

B组 变式口算题

1. 通常，我们规定海平面的海拔高度为0米，世界最高城市拉萨的平均高度高于海平面3658米，记作(　　)米；世界最深的马里亚纳海沟，最深处低于海平面11034米，记作(　　)米。
2. 奇奇向东行50米记作+50米，那么他向(　　)行300米记作−300米。
3. 如果逆时针旋转36°记作+36°，那么顺时针旋转20°，记作(　　)。
4. 一艘潜水艇所在的高度是−50米，一条鲨鱼在潜水艇的上方10米处，则鲨鱼所在的高度是(　　)米。

荣德基星级口算天天练
微信公众号 教辅资料站

关注微信公众号“教辅资料站”获取更多学习资料

第一单元口算能力测试

用时：____分____秒　错误：　个

A组 常规口算题

0.81 ×7 =	1.5 ×7 =	0.32 ÷4 ×8 =
0.45 ÷9 =	8.4 ÷4 =	5 ×0.6 ÷3 =
0.5 ×2.4 =	9.9 ÷0.9 =	0.1 ×4.3 ÷0.01 =
0.48 ÷0. 6 =	0.32 ×0.5 =	6 ×0.02 ÷0.3 =
0.85 ÷0.17 =	7.5 ×0.6 =	2.01 ×0 ÷0.75 =
9 ×1.02 =	0.3 ×0.62 =	0.21 ×100 ÷0.1 =
75 ÷0.3 =	0.63 ÷0.07 =	4 ÷0.8 ×0.3 =
1.6 ×7 =	2.8 ×9 =	3.25 ÷0.05 =
0.44 ×0.3 =	14 ÷70 =	2.6 ×3 ÷1.3 =
5.6 ÷2.8 =	0.36 ÷0.6 =	7.5 ×0.1 ÷10 =
0.17 ×0.04 =	35 ×0.02 =	9 ×0.5 ×2 =
0.25 ×12 =	2.7 ÷0.3 =	0.6 ×8 ×5 =
4.5 ÷0.01 =	0.76 ×0.5 =	0.4 ×27 ×0.25 =
3.25 ×2 =	2.4 ÷48 =	36 ÷0.5 ÷8 =
6.4 ÷0.2 =	6.9 ÷23 =	74 ÷2.5 ÷4 =

B组 变式口算题

1. 按要求填一填。

-5　$+17$　284　$+\frac{5}{9}$　0　-100　-125　0.14　-1.5　$-\frac{1}{2}$　$\frac{3}{4}$

正数　　负数



2. 你知道点 A、B、C、D、E 分别表示哪个数吗？请写出来。

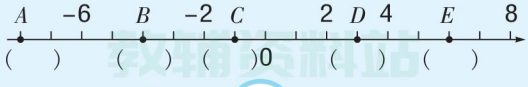

荣德基星级口算天天练

关注微信公众号“教辅资料站”获取更多学习资料

练习1 分数的意义

用时：____分____秒 错误：　个

A组 常规口算题

0.7×0.8=	0.04×20=	5.6+0.4=
4.7+2.3=	4.5×2=	6.9−2.5=
6×3.4=	0.62−0.32=	1.4×0.5=
0.75×100=	0.02×0.5=	3.6×0.3=
6.3÷7=	5.6×100=	0.75÷0.25=
0.125×8=	4.8÷0.3=	0.86÷2=
0.56÷28=	0.36÷0.4=	0.64÷0.8=
0.4×9=	10÷20=	0.7×1.1=
7.2+12.8=	46.7−3.8=	5.2÷13=
12.5÷5=	1.64+4.1=	8.65×10=
24×0.5=	4.8×0.5=	2.8+4.2=
6.9×0.1=	10.8÷9=	9.6÷0.8=
0.35×100=	2.5×8=	0.56÷0.7=
0.125×4=	3.28×0.1=	3.9÷0.13=
1.6÷0.8=	1÷2.5=	1.25×0.8=
4.5−0.05=	16.5÷0.5=	5×0.12=

B组 变式口算题

1. 用分数表示图中的阴影部分。

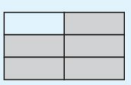

(　　)/(　　)



(　　)/(　　)

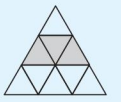

(　　)/(　　)

2. 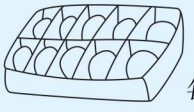 每个蛋是这些蛋的(　　)/(　　)。

荣德基星级口算天天练
微信公众号 教辅资料站

关注微信公众号“教辅资料站”获取更多学习资料

练习2　真分数、假分数

用时：____分____秒　错误：　个

A组　常规口算题

2.4 ×5 =	3.66 ÷6 =	2.04 ×4 =
3.99 ×1 =	0 ×3.52 =	4.6 ×0.02 =
4.4 ÷4 =	3.6 ÷3 =	5.64 ÷0.6 =
1.5 ×3 =	1.2 ×0.4 =	38 ÷190 =
2.79 ÷3 =	0.12 ÷3 =	9.05 ×4 =
0.22 ×4 =	2.7 ×3 =	6.5 ×0.2 =
0.45 ÷4 =	2.05 ÷5 =	8 ÷1.6 =
0.34 ÷17 =	2.57 ÷0.5 =	32 ÷0.4 =
3 ×0.28 =	30.4 ÷4 =	0.74 ×3 =
0.72 ÷0.6 =	2.6 ÷1.3 =	8.2 ×0.6 =
0 ×3.65 =	7.82 ÷1 =	6.5 ÷13 =
3.6 ÷0.06 =	5.04 ÷0.9 =	2.2 ÷11 =
4.4 ÷0.11 =	4.2 ×3 =	9 ×5.2 =
4 ×0.5 =	5.1 ÷0.17 =	0.6 ×4.8 =
9.6 ÷16 =	1 ÷0.01 =	8.8 ÷4.4 =
8.1 ×9 =	2.5 ×4 =	35 ÷0.35 =

B组　变式口算题

1. 连一连。

$\frac{9}{13}$　$\frac{6}{5}$　$\frac{24}{7}$　$\frac{13}{40}$　$\frac{15}{65}$　$\frac{90}{17}$　$\frac{20}{15}$　$\frac{9}{9}$　$\frac{8}{7}$

真分数　　假分数

2. 写出下图中直线上的点表示的分数。

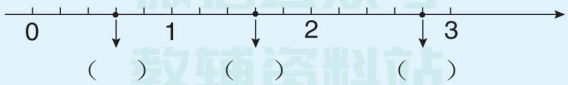

荣德基星级口算天天练
微信公众号 教辅资料站

关注微信公众号“教辅资料站”获取更多学习资料

练习3 习题课

用时：____分____秒 错误：　个

A组 常规口算题

0.05 ×4 =	3.5 ×0 =	63 ÷70 =
3.5 ×0.01 =	1.25 ÷0.25 =	5.5 ×0.4 =
4.38 ÷6 =	0.5 ×0.4 =	9 ×0.702 =
1.65 ÷0.3 =	4.2 ÷3 =	4.6 ÷23 =
0.36 ×2 =	9.4 ×3 =	7.04 ×6 =
2.5 ×0.8 =	4.5 ÷1.5 =	8 ×0.25 =
6 ÷1.2 =	0.3 ×8.2 =	15 ÷30 =
27 ÷0.5 =	8.4 ÷7 =	9.36 ÷0.9 =
0.48 ×5 =	6.2 ×7 =	8.23 ×4 =
20.5 ×0.3 =	9.9 ÷0.3 =	5.5 ×0.7 =
7.5 ÷5 =	0.13 ×9 =	34 ÷170 =
1.05 ÷3 =	4.2 ÷0.7 =	9.5 ÷5 =
14 ×0.3 =	9 ×1.2 =	14 ×0.07 =
0.02 ×50 =	3.3 ÷6 =	0.6 ×8.5 =
5.76 ÷0.8 =	0.76 ×0.2 =	36 ÷60 =
45 ÷0.05 =	7.8 ÷0.6 =	75 ÷1.5 =

B组 变式口算题

1. $\frac{27}{43}$的分数单位是$\frac{(\quad)}{(\quad)}$，有(　　)个这样的分数单位。

$\frac{68}{157}$的分数单位是$\frac{(\quad)}{(\quad)}$，有(　　)个这样的分数单位。

2. 用直线上的点表示下面的分数。



荣德基星级口算天天练
微信公众号 教辅资料站

关注微信公众号“教辅资料站”获取更多学习资料

练习4　分数与除法的关系

用时：____分____秒　错误：　个

A组　常规口算题

$12\div17=\frac{(\quad)}{(\quad)}$	$\frac{5}{11}=(\quad)\div(\quad)$	$9\div4=\frac{(\quad)}{(\quad)}$
$73\div105=\frac{(\quad)}{(\quad)}$	$\frac{14}{65}=(\quad)\div(\quad)$	$\frac{51}{49}=(\quad)\div(\quad)$
$21\div64=\frac{(\quad)}{(\quad)}$	$\frac{11}{45}=(\quad)\div(\quad)$	$43\div17=\frac{(\quad)}{(\quad)}$
$9\div101=\frac{(\quad)}{(\quad)}$	$\frac{27}{85}=(\quad)\div(\quad)$	$\frac{5}{94}=(\quad)\div(\quad)$
$31\div75=\frac{(\quad)}{(\quad)}$	$\frac{66}{121}=(\quad)\div(\quad)$	$66\div13=\frac{(\quad)}{(\quad)}$
$46\div83=\frac{(\quad)}{(\quad)}$	$\frac{56}{91}=(\quad)\div(\quad)$	$\frac{15}{7}=(\quad)\div(\quad)$
$28\div65=\frac{(\quad)}{(\quad)}$	$\frac{35}{102}=(\quad)\div(\quad)$	$12\div5=\frac{(\quad)}{(\quad)}$
$33\div79=\frac{(\quad)}{(\quad)}$	$\frac{41}{83}=(\quad)\div(\quad)$	$\frac{51}{26}=(\quad)\div(\quad)$
$81\div100=\frac{(\quad)}{(\quad)}$	$\frac{76}{211}=(\quad)\div(\quad)$	$23\div17=\frac{(\quad)}{(\quad)}$
$9\div37=\frac{(\quad)}{(\quad)}$	$\frac{15}{51}=(\quad)\div(\quad)$	$\frac{29}{8}=(\quad)\div(\quad)$
$37\div87=\frac{(\quad)}{(\quad)}$	$\frac{23}{65}=(\quad)\div(\quad)$	$107\div43=\frac{(\quad)}{(\quad)}$
$12\div49=\frac{(\quad)}{(\quad)}$	$\frac{14}{47}=(\quad)\div(\quad)$	$\frac{21}{5}=(\quad)\div(\quad)$

B组　变式口算题

1. 把一袋重2千克的糖果平均分给5个小朋友，每人分得$\frac{(\quad)}{(\quad)}$千克。

2. 五(1)班有45名学生，有15人参加了华兴杯数学竞赛，7人获奖，获奖人数占参赛人数的$\frac{(\quad)}{(\quad)}$，占全班人数的$\frac{(\quad)}{(\quad)}$。

荣德基 星级口算天天练
微信公众号 教辅资料站

关注微信公众号“教辅资料站”获取更多学习资料

练习5 假分数化为整数或带分数

用时：____分____秒 错误：　个

A组 常规口算题

7 dm = $\frac{(\quad)}{(\quad)}$ m

23 秒 = $\frac{(\quad)}{(\quad)}$ 分

99 m = $\frac{(\quad)}{(\quad)}$ km

53 cm = $\frac{(\quad)}{(\quad)}$ m

19 时 = $\frac{(\quad)}{(\quad)}$ 日

79 mL = $\frac{(\quad)}{(\quad)}$ L

41 kg = $\frac{(\quad)}{(\quad)}$ t

43 cm^2 = $\frac{(\quad)}{(\quad)}$ m^2

59 g = $\frac{(\quad)}{(\quad)}$ kg

9 cm = $\frac{(\quad)}{(\quad)}$ dm

23 分 = $\frac{(\quad)}{(\quad)}$ 时

7 个月 = $\frac{(\quad)}{(\quad)}$ 年

33 cm = $\frac{(\quad)}{(\quad)}$ m

◆ 把下面的假分数化成整数或带分数。

$\frac{14}{2}$ = (　　)　　$\frac{22}{3}$ = (　　)

$\frac{40}{5}$ = (　　)　　$\frac{36}{12}$ = (　　)

$\frac{26}{7}$ = (　　)　　$\frac{55}{13}$ = (　　)

$\frac{51}{17}$ = (　　)　　$\frac{15}{6}$ = (　　)

$\frac{35}{8}$ = (　　)　　$\frac{34}{5}$ = (　　)

$\frac{24}{5}$ = (　　)　　$\frac{55}{9}$ = (　　)

$\frac{15}{2}$ = (　　)　　$\frac{33}{7}$ = (　　)

$\frac{18}{6}$ = (　　)　　$\frac{40}{3}$ = (　　)

$\frac{25}{11}$ = (　　)　　$\frac{34}{7}$ = (　　)

$\frac{32}{6}$ = (　　)　　$\frac{25}{9}$ = (　　)

$\frac{45}{9}$ = (　　)　　$\frac{45}{15}$ = (　　)

B组 变式口算题

用分数表示下面各题的商，是假分数的化成整数或带分数。

5 ÷ 7 = $\frac{(\quad)}{(\quad)}$　　32 ÷ 16 = $\frac{(\quad)}{(\quad)}$ = (　　)

130 ÷ 54 = $\frac{(\quad)}{(\quad)}$ = (　　)　　18 ÷ 19 = $\frac{(\quad)}{(\quad)}$

56 ÷ 14 = $\frac{(\quad)}{(\quad)}$ = (　　)　　41 ÷ 18 = $\frac{(\quad)}{(\quad)}$ = (　　)

16 ÷ 21 = $\frac{(\quad)}{(\quad)}$　　33 ÷ 72 = $\frac{(\quad)}{(\quad)}$

荣德基 星级口算天天练
微信公众号 教辅资料站

关注微信公众号“教辅资料站”获取更多学习资料

练习6　习题课

用时：____分____秒　错误：　个

A组　常规口算题

$3 \div 11 = \frac{(\quad)}{(\quad)}$

$\frac{28}{17} = (\quad) \div (\quad)$

$13 \div 15 = \frac{(\quad)}{(\quad)}$

$\frac{35}{94} = (\quad) \div (\quad)$

$5 \div 23 = \frac{(\quad)}{(\quad)}$

$\frac{23}{6} = (\quad) \div (\quad)$

$4 \div 35 = \frac{(\quad)}{(\quad)}$

$\frac{50}{6} = (\quad) \div (\quad)$

$17 \div 30 = \frac{(\quad)}{(\quad)}$

$\frac{3}{2} = (\quad) \div (\quad)$

◆ 把下面的假分数化成带分数或整数。

$\frac{6}{5} = (\quad)$　　$\frac{45}{15} = (\quad)$

$\frac{3}{2} = (\quad)$　　$\frac{22}{5} = (\quad)$

$\frac{90}{6} = (\quad)$　　$\frac{63}{7} = (\quad)$

$\frac{23}{8} = (\quad)$　　$\frac{50}{13} = (\quad)$

$\frac{30}{15} = (\quad)$　　$\frac{48}{6} = (\quad)$

$\frac{32}{8} = (\quad)$　　$\frac{38}{5} = (\quad)$

$\frac{20}{9} = (\quad)$　　$\frac{55}{7} = (\quad)$

$\frac{15}{7} = (\quad)$　　$\frac{23}{9} = (\quad)$

$\frac{36}{6} = (\quad)$　　$\frac{40}{13} = (\quad)$

$\frac{25}{8} = (\quad)$　　$\frac{34}{17} = (\quad)$

B组　变式口算题

1. 把5米长的绳子平均分成6段，每段占全长的$\frac{(\quad)}{(\quad)}$，每段的长是(　　)米。

2. 一条长8米的水渠，用17天修完，平均每天修这条水渠的$\frac{(\quad)}{(\quad)}$，平均每天修(　　)米。

3. 妈妈买了15个苹果，明明吃了6个，明明吃了这些苹果的$\frac{(\quad)}{(\quad)}$，还剩$\frac{(\quad)}{(\quad)}$。

4. 红红看一本320页的故事书，第一天看了77页，第二天看了83页，第一天看了这本书的$\frac{(\quad)}{(\quad)}$，第二天看了这本书的$\frac{(\quad)}{(\quad)}$。

荣德基星级口算天天练
微信公众号教辅资料站

关注微信公众号“教辅资料站”获取更多学习资料

练习7 分数的基本性质

用时：____分____秒 错误：　个

A组 常规口算题

$\frac{2}{3}=\frac{(\quad)}{9}$　$\frac{10}{15}=\frac{(\quad)}{3}$

$\frac{4}{5}=\frac{12}{(\quad)}$　$\frac{8}{56}=\frac{1}{(\quad)}$

$\frac{12}{30}=\frac{(\quad)}{15}$　$\frac{5}{6}=\frac{(\quad)}{18}$

$\frac{5}{3}=\frac{(\quad)}{9}$　$\frac{6}{15}=\frac{(\quad)}{30}$

$\frac{8}{16}=\frac{(\quad)}{4}$　$\frac{10}{24}=\frac{(\quad)}{12}$

$\frac{7}{8}=\frac{(\quad)}{56}$　$\frac{8}{72}=\frac{(\quad)}{9}$

$\frac{5}{25}=\frac{1}{(\quad)}$　$\frac{2}{7}=\frac{6}{(\quad)}$

$\frac{5}{9}=\frac{(\quad)}{27}$　$\frac{5}{6}=\frac{30}{(\quad)}$

$\frac{12}{36}=\frac{(\quad)}{9}$　$\frac{10}{60}=\frac{(\quad)}{30}$

$\frac{22}{33}=\frac{(\quad)}{3}$　$\frac{3}{7}=\frac{(\quad)}{42}$

$\frac{21}{49}=\frac{3}{(\quad)}$　$\frac{9}{5}=\frac{(\quad)}{25}$

$\frac{24}{30}=\frac{(\quad)}{5}$　$\frac{3}{10}=\frac{9}{(\quad)}$

1. 把下面的分数化成分母是15而大小不变的分数。

$\frac{3}{5}=\frac{(\quad)}{(\quad)}$　$\frac{2}{3}=\frac{(\quad)}{(\quad)}$

2. 把下面的分数化成分母是2而大小不变的分数。

$\frac{7}{14}=\frac{(\quad)}{(\quad)}$　$\frac{54}{36}=\frac{(\quad)}{(\quad)}$

3. 把下面的分数化成分母是16而大小不变的分数。

$\frac{5}{8}=\frac{(\quad)}{(\quad)}$　$\frac{7}{4}=\frac{(\quad)}{(\quad)}$

4. 把下面的分数化成分母是30而大小不变的分数。

$\frac{7}{5}=\frac{(\quad)}{(\quad)}$　$\frac{18}{60}=\frac{(\quad)}{(\quad)}$

5. 把下面的分数化成分母是8而大小不变的分数。

$\frac{18}{48}=\frac{(\quad)}{(\quad)}$　$\frac{5}{2}=\frac{(\quad)}{(\quad)}$

B组 变式口算题

1. 按要求涂色，再比较它们的大小。

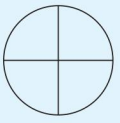

$\frac{3}{4}$



$\frac{6}{8}$



$\frac{9}{12}$

2. 下面每组的两个分数，相等的打“√”，不相等的打“×”。

$\frac{5}{6}$和$\frac{10}{18}$(　　)　$\frac{7}{9}$和$\frac{49}{63}$(　　)　$\frac{13}{6}$和$\frac{39}{12}$(　　)　$\frac{4}{9}$和$\frac{16}{36}$(　　)

荣德基口算大本 微信公众号 教辅资料站 关注微信公众号“教辅资料站”获取更多学习资料

练习8　习题课

用时：____分____秒　错误：　个

A组　常规口算题

$\frac{7}{3}=\frac{7\times(\quad)}{3\times(\quad)}=\frac{(\quad)}{15}$

$\frac{14}{16}=\frac{14\div(\quad)}{16\div(\quad)}=\frac{7}{(\quad)}$

$\frac{7}{12}=\frac{7\times4}{12\bigcirc(\quad)}=\frac{28}{(\quad)}$

$\frac{36}{54}=\frac{36\bigcirc(\quad)}{54\bigcirc(\quad)}=\frac{(\quad)}{9}$

$\frac{21}{14}=\frac{21\bigcirc(\quad)}{14\div7}=\frac{(\quad)}{2}$

$\frac{3}{16}=\frac{3\times5}{16\bigcirc(\quad)}=\frac{15}{(\quad)}$

$\frac{56}{28}=\frac{56\bigcirc(\quad)}{28\bigcirc(\quad)}=\frac{2}{(\quad)}$

$\frac{13}{6}=\frac{13\times(\quad)}{6\times(\quad)}=\frac{(\quad)}{18}$

$\frac{11}{2}=\frac{11\times(\quad)}{2\times(\quad)}=\frac{(\quad)}{18}$

$\frac{5}{45}=\frac{5\div(\quad)}{45\div(\quad)}=\frac{1}{(\quad)}$

$\frac{7}{13}=\frac{7\times(\quad)}{13\times(\quad)}=\frac{(\quad)}{39}$

$\frac{5}{9}=\frac{5\times(\quad)}{9\times(\quad)}=\frac{20}{(\quad)}$

$\frac{54}{45}=\frac{54\div(\quad)}{45\div(\quad)}=\frac{6}{(\quad)}$

$\frac{11}{13}=\frac{11\times(\quad)}{13\times(\quad)}=\frac{(\quad)}{52}$

$\frac{15}{75}=\frac{15\bigcirc(\quad)}{75\div15}=\frac{(\quad)}{(\quad)}$

$\frac{9}{25}=\frac{9\times3}{25\times(\quad)}=\frac{(\quad)}{(\quad)}$

$\frac{14}{8}=\frac{14\div(\quad)}{8\div(\quad)}=\frac{7}{(\quad)}$

$\frac{8}{3}=\frac{8\times(\quad)}{3\times(\quad)}=\frac{(\quad)}{21}$

$\frac{14}{35}=\frac{14\div(\quad)}{35\div(\quad)}=\frac{2}{(\quad)}$

$\frac{4}{7}=\frac{4\times(\quad)}{7\times(\quad)}=\frac{(\quad)}{49}$

$\frac{18}{32}=\frac{18\div(\quad)}{32\div(\quad)}=\frac{9}{(\quad)}$

$\frac{11}{32}=\frac{11\times(\quad)}{32\times(\quad)}=\frac{22}{(\quad)}$

B组　变式口算题

1. 按规律填数。

(1) $\frac{2}{5},\frac{4}{10},\frac{6}{15},(\quad),(\quad),(\quad)$。

(2) $\frac{64}{96},\frac{32}{48},\frac{16}{24},(\quad),(\quad),(\quad)$。

(3) $\frac{1}{2},\frac{2}{4},\frac{6}{12},\frac{12}{24},\frac{36}{72},(\quad),(\quad)$。

2. 把下列分数分别化成分母是24而大小不变的分数。

$\frac{1}{4}=(\quad)$　　$\frac{5}{12}=(\quad)$

$\frac{6}{48}=(\quad)$　　$\frac{2}{3}=(\quad)$

$\frac{15}{72}=(\quad)$　　$\frac{5}{6}=(\quad)$

荣德基星级口算天天练
微信公众号 教辅资料站

关注微信公众号“教辅资料站”获取更多学习资料

练习9 回顾整理

用时：____分____秒 错误：　个

A组 常规口算题

$\frac{5}{8}=\frac{25}{(\quad)}$　　$15\div16=\frac{(\quad)}{(\quad)}$

$\frac{3}{14}=\frac{(\quad)}{56}$　　$(\quad)\div7=\frac{4}{7}$

$\frac{7}{3}=\frac{28}{(\quad)}$　　$17\div15=\frac{(\quad)}{(\quad)}$

$\frac{4}{15}=\frac{(\quad)}{60}$　　$6\div(\quad)=\frac{6}{7}$

$\frac{9}{8}=\frac{27}{(\quad)}$　　$\frac{7}{15}=(\quad)\div(\quad)$

$\frac{6}{13}=\frac{(\quad)}{39}$　　$14\div11=\frac{(\quad)}{(\quad)}$

$\frac{28}{63}=\frac{4}{(\quad)}$　　$\frac{8}{23}=(\quad)\div(\quad)$

$\frac{9}{15}=\frac{(\quad)}{30}$　　$7\div16=\frac{(\quad)}{(\quad)}$

$\frac{4}{9}=\frac{(\quad)}{72}$　　$\frac{(\quad)}{40}=17\div(\quad)$

$\frac{5}{3}=\frac{50}{(\quad)}$　　$\frac{15}{(\quad)}=(\quad)\div47$

$\frac{18}{36}=\frac{(\quad)}{2}$　　$\frac{(\quad)}{53}=16\div(\quad)$

◆ 把假分数化为整数或带分数。

$\frac{40}{27}=(\quad)$

$\frac{21}{4}=(\quad)$

$\frac{48}{6}=(\quad)$

$\frac{8}{5}=(\quad)$

$\frac{17}{3}=(\quad)$

$\frac{36}{4}=(\quad)$

$\frac{29}{4}=(\quad)$

$\frac{25}{7}=(\quad)$

$\frac{15}{5}=(\quad)$

$\frac{15}{8}=(\quad)$

B组 变式口算题

1. 分别选择一个分数，并在图中涂色表示。



$\frac{(\quad)}{(\quad)}$



$\frac{(\quad)}{(\quad)}$

2. 一块地共有8公顷，平均分给5个农户种蔬菜。每户分得$\frac{(\quad)}{(\quad)}$公顷。

3. 明明计划12天看完一本故事书，平均每天看这本故事书的$\frac{(\quad)}{(\quad)}$。

4. 一块木板的面积是50平方分米，用其中的32平方分米做一个小木盒，用去了这块木板的$\frac{(\quad)}{(\quad)}$。

荣德基星级口算天天练

关注微信公众号“教辅资料站”获取更多学习资料

第二单元口算能力测试

用时：____分____秒　错误：　个

A组 常规口算题

$\frac{9}{20}=\frac{(\quad)}{60}$　$\frac{9}{7}=\frac{36}{(\quad)}$　$\frac{6}{15}=\frac{(\quad)}{5}$　$\frac{5}{9}=\frac{30}{(\quad)}$　$\frac{3}{7}=\frac{(\quad)}{56}$　$\frac{10}{17}=\frac{30}{(\quad)}$　$\frac{11}{55}=\frac{(\quad)}{5}$　$\frac{12}{7}=\frac{24}{(\quad)}$　$\frac{30}{25}=\frac{6}{(\quad)}$　$\frac{9}{15}=\frac{(\quad)}{5}$　$\frac{11}{9}=\frac{33}{(\quad)}$

$5\div8=\frac{(\quad)}{(\quad)}$　$(\quad)\div(\quad)=\frac{7}{16}$　$\frac{5}{18}=(\quad)\div(\quad)$　$\frac{7}{4}=(\quad)\div(\quad)$　$6\div13=\frac{(\quad)}{(\quad)}$　$11\div17=\frac{(\quad)}{(\quad)}$　$3\div(\quad)=\frac{(\quad)}{8}$　$\frac{9}{24}=(\quad)\div(\quad)$　$24\div(\quad)=\frac{(\quad)}{15}$　$(\quad)\div(\quad)=\frac{2}{5}$　$27\div(\quad)=\frac{27}{37}$

◆ 把假分数化为带分数或整数。

$\frac{20}{13}=(\quad)$　$\frac{26}{15}=(\quad)$　$\frac{55}{11}=(\quad)$　$\frac{7}{2}=(\quad)$　$\frac{9}{5}=(\quad)$　$\frac{21}{7}=(\quad)$　$\frac{17}{6}=(\quad)$　$\frac{11}{10}=(\quad)$　$\frac{19}{3}=(\quad)$　$\frac{23}{11}=(\quad)$

B组 变式口算题

1. 在(　　)里填上适当的分数。

25分＝(　　)时

40平方分米＝(　　)平方米

38厘米＝(　　)米

16小时＝(　　)日

2. 写出下图中直线上的点表示的分数。

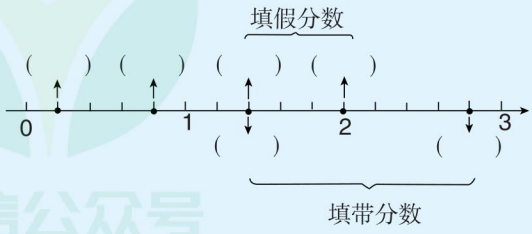

荣德基星级口算天天练
微信公众号 教辅资料站

关注微信公众号“教辅资料站”获取更多学习资料

练习1　最大公因数

用时：____分____秒　错误：　个

A组 常规口算题

5的因数有(　　)　　7的因数有(　　)

9的因数有(　　)　　19的因数有(　　)

5和9的公因数有(　　)　　7和19的公因数有(　　)

5和9的最大公因数是(　　)　　7和19的最大公因数是(　　)

8的因数有(　　)　　18的因数有(　　)

10的因数有(　　)　　27的因数有(　　)

8和10的公因数有(　　)　　18和27的公因数有(　　)

8和10的最大公因数是(　　)　　18和27的最大公因数是(　　)

20的因数有(　　)　　32的因数有(　　)

45的因数有(　　)　　64的因数有(　　)

20和45的公因数有(　　)　　32和64的公因数有(　　)

20和45的最大公因数是(　　)　　32和64的最大公因数是(　　)

16的因数有(　　)　　14的因数有(　　)

4的因数有(　　)　　30的因数有(　　)

16和4的公因数有(　　)　　14和30的公因数有(　　)

16和4的最大公因数是(　　)　　14和30的最大公因数是(　　)

B组 变式口算题

1. 把16和24的因数、公因数分别写到相应的位置，再圈出它们的最大公因数。

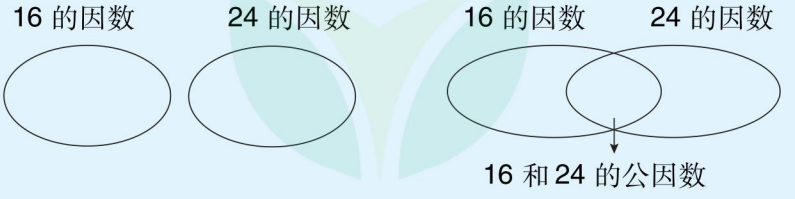

2. 找出每组数的最大公因数，写在下面的(　　)里。

5和13	7和16	11和33	13和29
(　　)	(　　)	(　　)	(　　)

关注微信公众号“教辅资料站”获取更多学习资料

练习2　习题课

用时：____分____秒　错误：　个

A组　常规口算题

◆ 写出每组数的最大公因数。

7和11（　　）　　6和9（　　）

4和8（　　）　　3和8（　　）

9和36（　　）　　5和15（　　）

15和16（　　）　　7和9（　　）

32和24（　　）　　32和16（　　）

3和13（　　）　　12和13（　　）

13和39（　　）　　11和33（　　）

5和25（　　）　　7和17（　　）

17和18（　　）　　35和7（　　）

20和10（　　）　　20和9（　　）

11和66（　　）　　12和36（　　）

50和49（　　）　　11和19（　　）

18和20（　　）　　18和36（　　）

72和8（　　）　　15和12（　　）

◆ 写出分子和分母的最大公因数。

$\frac{12}{27}$（　　）

$\frac{5}{8}$（　　）

$\frac{6}{15}$（　　）

$\frac{7}{35}$（　　）

$\frac{15}{27}$（　　）

$\frac{13}{65}$（　　）

$\frac{12}{21}$（　　）

$\frac{8}{9}$（　　）

$\frac{10}{22}$（　　）

$\frac{24}{36}$（　　）

B组　变式口算题

1. 一张长方形纸长16厘米，宽12厘米，把它裁成大小一样的正方形，而没有剩余，每个正方形的边长最长是（　　）厘米。

2. 用42朵玫瑰和36朵康乃馨混合扎成花束，要使每束里的玫瑰的朵数相同，康乃馨的朵数也相同且没有剩余。最多可以扎（　　）束，玫瑰每束有（　　）朵，康乃馨每束有（　　）朵。

3. 把36个苹果和32个梨分给小朋友，要使每个小朋友分得苹果的个数相同，分得梨的个数也相同，且苹果和梨均没有剩余，最多能分给（　　）个小朋友。

荣德基星级口算天天练

关注微信公众号“教辅资料站”获取更多学习资料

练习3 约 分

用时：____分____秒 错误：　个

A组 常规口算题

◆ 把下面的分数化成最简分数。

$\frac{24}{36}=\frac{24\bigcirc(\quad)}{36\bigcirc(\quad)}=\frac{(\quad)}{(\quad)}$　　$\frac{77}{21}=\frac{77\bigcirc(\quad)}{21\bigcirc(\quad)}=\frac{(\quad)}{(\quad)}$

$\frac{30}{27}=\frac{30\bigcirc(\quad)}{27\bigcirc(\quad)}=\frac{(\quad)}{(\quad)}$　　$\frac{16}{42}=\frac{16\bigcirc(\quad)}{42\bigcirc(\quad)}=\frac{(\quad)}{(\quad)}$

$\frac{3}{12}=\frac{3\bigcirc(\quad)}{12\bigcirc(\quad)}=\frac{(\quad)}{(\quad)}$　　$\frac{24}{18}=\frac{24\bigcirc(\quad)}{18\bigcirc(\quad)}=\frac{(\quad)}{(\quad)}$

$\frac{12}{30}=\frac{12\bigcirc(\quad)}{30\bigcirc(\quad)}=\frac{(\quad)}{(\quad)}$　　$\frac{27}{54}=\frac{27\bigcirc(\quad)}{54\bigcirc(\quad)}=\frac{(\quad)}{(\quad)}$

$\frac{12}{18}=\frac{12\bigcirc(\quad)}{18\bigcirc(\quad)}=\frac{(\quad)}{(\quad)}$　　$\frac{35}{30}=\frac{35\bigcirc(\quad)}{30\bigcirc(\quad)}=\frac{(\quad)}{(\quad)}$

$\frac{15}{9}=\frac{15\bigcirc(\quad)}{9\bigcirc(\quad)}=\frac{(\quad)}{(\quad)}$　　$\frac{4}{18}=\frac{4\bigcirc(\quad)}{18\bigcirc(\quad)}=\frac{(\quad)}{(\quad)}$

$\frac{18}{42}=\frac{18\bigcirc(\quad)}{42\bigcirc(\quad)}=\frac{(\quad)}{(\quad)}$　　$\frac{9}{12}=\frac{9\bigcirc(\quad)}{12\bigcirc(\quad)}=\frac{(\quad)}{(\quad)}$

B组 变式口算题

1. 下面哪些分数没有化成最简分数？请把它们化成最简分数。

$\frac{18}{36}=\frac{6}{12}$　　$\frac{10}{24}=\frac{5}{12}$　　$\frac{33}{99}=\frac{11}{33}$　　$\frac{14}{28}=\frac{7}{14}$

2. 把上下两行相等的两个分数用线连起来。

$\frac{8}{12}$　　$\frac{3}{7}$　　$\frac{4}{10}$　　$\frac{12}{16}$

$\frac{9}{21}$　　$\frac{15}{20}$　　$\frac{2}{3}$　　$\frac{10}{25}$

荣德基星级口算天天练
微信公众号 教辅资料站

关注微信公众号“教辅资料站”获取更多学习资料

练习4　同分母分数加减法

用时：____分____秒　错误：　个

A组　常规口算题

$\frac{5}{9}+\frac{1}{9}=$	$\frac{5}{8}-\frac{3}{8}=$	24分$=\frac{(\quad)}{(\quad)}$时
$\frac{3}{8}-\frac{1}{8}=$	$\frac{6}{17}+\frac{5}{17}=$	60 cm$=\frac{(\quad)}{(\quad)}$m
$\frac{4}{10}+\frac{7}{10}=$	$\frac{5}{11}-\frac{3}{11}=$	42 dm$=\frac{(\quad)}{(\quad)}$m
$\frac{14}{17}-\frac{8}{17}=$	$\frac{5}{12}+\frac{5}{12}=$	32秒$=\frac{(\quad)}{(\quad)}$分
$\frac{1}{7}+\frac{4}{7}=$	$\frac{12}{13}-\frac{5}{13}=$	24角$=\frac{(\quad)}{(\quad)}$元
$\frac{14}{19}-\frac{5}{19}=$	$\frac{11}{15}+\frac{4}{15}=$	45 cm$=\frac{(\quad)}{(\quad)}$m
$\frac{9}{14}+\frac{3}{14}=$	$\frac{7}{13}-\frac{6}{13}=$	750 m$=\frac{(\quad)}{(\quad)}$km
$\frac{13}{15}-\frac{3}{15}=$	$\frac{4}{9}+\frac{7}{9}=$	180 kg$=\frac{(\quad)}{(\quad)}$吨
$\frac{2}{3}+\frac{7}{3}=$	$\frac{5}{16}-\frac{3}{16}=$	35分$=\frac{(\quad)}{(\quad)}$时
$1+\frac{3}{7}=$	$\frac{12}{19}-\frac{7}{19}=$	30 dm$^2=\frac{(\quad)}{(\quad)}$m^2
$\frac{3}{8}+\frac{3}{8}=$	$\frac{5}{14}-\frac{2}{14}=$	34分$=\frac{(\quad)}{(\quad)}$时
$\frac{7}{8}-\frac{5}{8}=$	$\frac{2}{9}+\frac{5}{9}=$	28时$=\frac{(\quad)}{(\quad)}$日

B组　变式口算题

1. 看图列式计算。

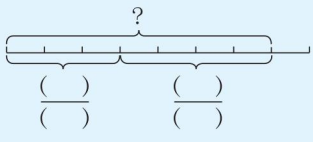

(　　)◯(　　)=(　　)

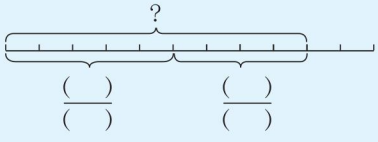

(　　)◯(　　)=(　　)

2. 填空。

$\frac{5}{13}+\frac{8}{13}=$(　　)　　(　　)$-\frac{12}{33}=\frac{17}{33}$　　(　　)$+\frac{5}{29}=\frac{23}{29}$

荣德基星级口算天天练

关注微信公众号“教辅资料站”获取更多学习资料

练习5 习题课

用时：____分____秒 错误：　个

A组 常规口算题

$\frac{14}{16}=\frac{7}{(\quad)}=\frac{28}{(\quad)}$

$\frac{36}{54}=\frac{(\quad)}{3}=\frac{(\quad)}{21}$

$\frac{(\quad)}{18}=\frac{13}{6}=\frac{(\quad)}{36}$

$\frac{24}{18}=\frac{(\quad)}{3}=\frac{(\quad)}{15}$

$\frac{14}{36}=\frac{(\quad)}{18}=\frac{28}{(\quad)}$

$\frac{4}{34}=\frac{2}{(\quad)}=\frac{6}{(\quad)}$

$\frac{24}{28}=\frac{(\quad)}{7}=\frac{(\quad)}{21}$

$\frac{40}{8}=\frac{5}{(\quad)}=\frac{(\quad)}{7}$

$\frac{24}{30}=\frac{4}{(\quad)}=\frac{(\quad)}{15}$

$\frac{28}{49}=\frac{4}{(\quad)}=\frac{(\quad)}{21}$

$\frac{13}{26}=\frac{13\times(\quad)}{26\times(\quad)}=\frac{(\quad)}{(\quad)}$

$\frac{35}{45}=\frac{35\times(\quad)}{45\times(\quad)}=\frac{(\quad)}{(\quad)}$

$\frac{15}{24}=\frac{15\times(\quad)}{24\times(\quad)}=\frac{(\quad)}{(\quad)}$

$\frac{14}{36}=\frac{14\times(\quad)}{36\times(\quad)}=\frac{(\quad)}{(\quad)}$

$\frac{9}{27}=\frac{9\times(\quad)}{27\times(\quad)}=\frac{(\quad)}{(\quad)}$

$\frac{24}{42}=\frac{24\times(\quad)}{42\times(\quad)}=\frac{(\quad)}{(\quad)}$

$\frac{20}{30}=\frac{20\times(\quad)}{30\times(\quad)}=\frac{(\quad)}{(\quad)}$

B组 变式口算题

1. 通过口算，把下面各算式填在下面的(　　)内。

$\frac{5}{8}-\frac{3}{8}$　$\frac{1}{6}+\frac{1}{6}$　$\frac{7}{24}-\frac{1}{24}$　$\frac{3}{16}+\frac{1}{16}$　$\frac{9}{12}-\frac{5}{12}$　$\frac{1}{18}+\frac{5}{18}$

(　　)=(　　)=(　　)=$\frac{1}{4}$　(　　)=(　　)=(　　)=$\frac{1}{3}$

2. 一块菜地，$\frac{1}{9}$种黄瓜，$\frac{2}{9}$种茄子，$\frac{4}{9}$种西红柿，其余的种韭菜，黄瓜和茄子共占这块地的$\frac{(\quad)}{(\quad)}$，韭菜占这块地的$\frac{(\quad)}{(\quad)}$。

荣德基 星级口算天天练

关注微信公众号“教辅资料站”获取更多学习资料

练习6　连加、连减

用时：____分____秒　错误：　个

A组　常规口算题

$\frac{1}{4}+\frac{1}{4}=$	$\frac{7}{8}-\frac{1}{8}=$	$\frac{6}{7}+\frac{5}{7}+\frac{4}{7}=$
$\frac{7}{9}-\frac{5}{9}=$	$\frac{4}{17}+\frac{9}{17}=$	$\frac{1}{14}+\frac{5}{14}+\frac{3}{14}=$
$\frac{3}{10}+\frac{9}{10}=$	$\frac{10}{11}-\frac{8}{11}=$	$\frac{1}{4}+\frac{1}{4}+\frac{3}{4}=$
$\frac{8}{15}-\frac{2}{15}=$	$\frac{5}{9}+\frac{1}{9}=$	$1+\frac{9}{23}+\frac{14}{23}=$
$\frac{1}{9}+\frac{7}{9}=$	$\frac{11}{12}-\frac{5}{12}=$	$\frac{5}{12}+\frac{7}{12}+\frac{1}{12}=$
$\frac{12}{17}-\frac{7}{17}=$	$\frac{1}{5}+\frac{4}{5}=$	$\frac{17}{20}-\frac{3}{20}-\frac{9}{20}=$
$\frac{5}{12}+\frac{11}{12}=$	$\frac{17}{19}-\frac{9}{19}=$	$\frac{6}{11}+\frac{3}{11}+\frac{1}{11}=$
$\frac{13}{7}-\frac{6}{7}=$	$\frac{14}{19}+\frac{2}{19}=$	$\frac{17}{30}-\frac{14}{30}-\frac{1}{30}=$
$\frac{1}{9}+\frac{17}{9}=$	$\frac{15}{16}-\frac{13}{16}=$	$\frac{12}{39}+\frac{19}{39}+\frac{17}{39}=$
$2+\frac{6}{7}=$	$\frac{14}{19}-\frac{7}{19}=$	$\frac{24}{35}-\frac{11}{35}-\frac{6}{35}=$
$\frac{5}{8}+\frac{5}{8}=$	$\frac{9}{11}-\frac{2}{11}=$	$\frac{9}{34}-\frac{8}{34}-\frac{1}{34}=$

B组　变式口算题

在(　　)内填上适当的数。

$\frac{2}{9}+\frac{4}{9}=(\quad)+\frac{1}{9}$　　$(\quad)-\frac{5}{11}=\frac{2}{11}-\frac{1}{11}$

$\frac{4}{15}+(\quad)=\frac{12}{15}-\frac{3}{15}$　　$\frac{27}{35}-(\quad)=\frac{13}{35}+\frac{8}{35}$

$\frac{8}{14}-\frac{3}{14}-(\quad)=0$　　$\frac{5}{12}+(\quad)+\frac{1}{12}=1$

荣德基星级口算天天练

关注微信公众号“教辅资料站”获取更多学习资料

练习7 习题课

用时：____分____秒 错误：　个

A组 常规口算题

$\frac{4}{5}-\frac{2}{5}=$	$\frac{8}{29}+\frac{11}{29}=$	$\frac{5}{23}+\frac{4}{23}+\frac{6}{23}=$
$\frac{3}{7}+\frac{1}{7}=$	$\frac{5}{13}-\frac{2}{13}=$	$\frac{3}{17}+\frac{8}{17}+\frac{2}{17}=$
$\frac{3}{29}+\frac{1}{29}=$	$\frac{6}{23}+\frac{8}{23}=$	$\frac{5}{29}+\frac{11}{29}+\frac{9}{29}=$
$\frac{1}{3}+\frac{1}{3}=$	$\frac{18}{53}-\frac{2}{53}=$	$\frac{28}{41}-\frac{9}{41}-\frac{11}{41}=$
$\frac{4}{7}-\frac{3}{7}=$	$\frac{8}{15}-\frac{4}{15}=$	$\frac{30}{37}-\frac{15}{37}-\frac{7}{37}=$
$\frac{5}{41}+\frac{6}{41}=$	$\frac{6}{17}+\frac{3}{17}=$	$\frac{6}{11}+\frac{1}{11}+\frac{3}{11}=$
$\frac{13}{17}-\frac{3}{17}=$	$\frac{15}{31}+\frac{14}{31}=$	$\frac{8}{43}-\frac{4}{43}+\frac{1}{43}=$
$\frac{8}{21}-\frac{4}{21}=$	$\frac{6}{11}-\frac{4}{11}=$	$\frac{6}{19}+\frac{7}{19}+\frac{2}{19}=$
$\frac{19}{35}-\frac{6}{35}=$	$\frac{16}{43}+\frac{17}{43}=$	$\frac{25}{59}-\frac{6}{59}-\frac{11}{59}=$
$\frac{9}{13}+\frac{2}{13}=$	$\frac{8}{19}-\frac{6}{19}=$	$\frac{9}{13}-\frac{6}{13}-\frac{2}{13}=$
$\frac{15}{43}+\frac{7}{43}=$	$\frac{21}{23}-\frac{8}{23}=$	$\frac{5}{31}+\frac{10}{31}+\frac{15}{31}=$
$\frac{17}{19}-\frac{5}{19}=$	$\frac{50}{59}+\frac{4}{59}=$	$\frac{8}{53}+\frac{15}{53}+\frac{18}{53}=$

B组 变式口算题

1. 
小明

一根彩带，我第一次用去了总长的$\frac{1}{5}$，第二次用去了总长的$\frac{2}{5}$，第三次和第一次用去的同样多。

小明三次一共用去了总长度的$\frac{(\quad)}{(\quad)}$。

2. 小哲读《希腊神话》，第一天读了这本书的$\frac{8}{25}$，第二天读了这本书的$\frac{7}{25}$。这两天一共读了这本书的(　　)。

3. 科学课上，王老师准备了一整杯水，做实验用了整杯水的$\frac{9}{10}$，又加进了整杯水的$\frac{7}{10}$，现在杯子中的水占整杯水的(　　)。

荣德基星级口算天天练

关注微信公众号“教辅资料站”获取更多学习资料

练习8　最小公倍数

用时：____分____秒　错误：　个

A组　常规口算题

◆ 先写出两个数的公倍数（从小到大写3个），再写出它们的最小公倍数。

2和3的公倍数有（　　）　　4和6的公倍数有（　　）

它们的最小公倍数是（　　）　　它们的最小公倍数是（　　）

6和12的公倍数有（　　）　　15和3的公倍数有（　　）

它们的最小公倍数是（　　）　　它们的最小公倍数是（　　）

14和35的公倍数有（　　）　　5和6的公倍数有（　　）

它们的最小公倍数是（　　）　　它们的最小公倍数是（　　）

4和13的公倍数有（　　）　　10和11的公倍数有（　　）

它们的最小公倍数是（　　）　　它们的最小公倍数是（　　）

5和7的公倍数有（　　）　　8和10的公倍数有（　　）

它们的最小公倍数是（　　）　　它们的最小公倍数是（　　）

3和9的公倍数有（　　）　　7和6的公倍数有（　　）

它们的最小公倍数是（　　）　　它们的最小公倍数是（　　）

11和8的公倍数有（　　）　　12和24的公倍数有（　　）

它们的最小公倍数是（　　）　　它们的最小公倍数是（　　）

6和2的公倍数有（　　）　　9和12的公倍数有（　　）

它们的最小公倍数是（　　）　　它们的最小公倍数是（　　）

荣德基 星级口算天天练

B组　变式口算题

1. 把4和6的倍数、公倍数分别写到相应的位置，再圈出它们的最小公倍数。

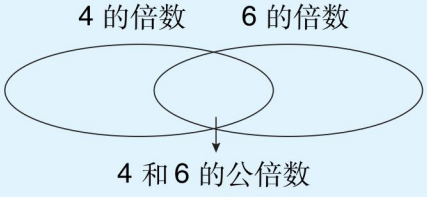

2. 找出下面每组数的最小公倍数，写在下面的（　　）里。

2和7　　4和16　　8和14　　11和44

（　　）　　（　　）　　（　　）　　（　　）

关注微信公众号“教辅资料站”获取更多学习资料

练习9 习题课

用时：____分____秒 错误：　个

A组 常规口算题

◆ 写出每组数的最小公倍数。

4和8(　　)
7和11(　　)
10和14(　　)
10和13(　　)
11和33(　　)
9和18(　　)
42和35(　　)
13和26(　　)
19和20(　　)
4和16(　　)
5和25(　　)
4和6(　　)
7和9(　　)
2和15(　　)
9和36(　　)

◆ 写出每组数的最大公因数。

9和8(　　)
36和3(　　)
18和9(　　)
34和2(　　)
12和34(　　)
56和14(　　)
15和21(　　)
8和14(　　)
17和34(　　)
33和12(　　)
15和40(　　)
7和21(　　)
55和15(　　)
6和13(　　)
36和90(　　)

◆ 写出每组分数中分母的最小公倍数。

$\frac{9}{17}$和$\frac{4}{3}$(　　)
$\frac{17}{32}$和$\frac{5}{16}$(　　)
$\frac{7}{10}$和$\frac{5}{9}$(　　)
$\frac{14}{11}$和$\frac{21}{5}$(　　)
$\frac{17}{120}$和$\frac{3}{40}$(　　)
$\frac{15}{36}$和$\frac{13}{24}$(　　)
$\frac{7}{12}$和$\frac{13}{24}$(　　)
$\frac{5}{6}$和$\frac{7}{54}$(　　)
$\frac{9}{13}$和$\frac{6}{7}$(　　)
$\frac{5}{18}$和$\frac{11}{54}$(　　)

B组 变式口算题

1. 7月5日，笑笑、小红两人在图书馆看书。回家时，笑笑说："我每4天来一次"，小红说："我每3天来一次"。她们下一次同时来到图书馆的时间是(　　)。

2. 3路车每7分钟发一次车，2路车每5分钟发一次车，两车从早上7时第一次同时发车，3路车和2路车第二次同时发车的时间是(　　)。

3. 五(1)班学生人数在40～50人，小组合作学习时，根据教学内容不同可以分为每组6人或每组8人，且都可以刚好分完。这个班有学生(　　)人。

荣德基星级口算天天练

关注微信公众号"教辅资料站"获取更多学习资料

练习10　分数与小数的互化

用时：____分____秒　错误：　个

A组　常规口算题

◆ 把下面的小数化成分数。

0.51 =　　0.127 =

0.3 =　　0.25 =

0.45 =　　0.73 =

0.06 =　　0.37 =

0.7 =　　0.14 =

0.55 =　　0.65 =

0.8 =　　0.9 =

0.17 =　　0.02 =

0.18 =　　0.125 =

0.4 =　　0.71 =

0.27 =　　0.39 =

0.44 =　　0.86 =

0.95 =　　0.77 =

0.62 =　　0.48 =

◆ 把下面的分数化成小数。

$\frac{1}{4}$ =(　　)

$\frac{4}{5}$ =(　　)

$\frac{3}{4}$ =(　　)

$\frac{2}{5}$ =(　　)

$\frac{1}{8}$ =(　　)

$\frac{11}{20}$ =(　　)

$\frac{7}{8}$ =(　　)

$\frac{3}{10}$ =(　　)

$\frac{6}{5}$ =(　　)

$\frac{19}{100}$ =(　　)

B组　变式口算题

1. 分别用小数和分数表示图中的阴影部分。

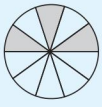

(　　)=$\frac{(\quad)}{(\quad)}$

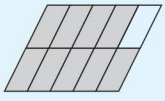

(　　)=$\frac{(\quad)}{(\quad)}$

2. 0.9 里面有 9 个(　　)分之一，化成分数是$\frac{(\quad)}{(\quad)}$。

3. 0.17 里面有(　　)个(　　)分之一，化成分数是$\frac{(\quad)}{(\quad)}$。

荣德基星级口算天天练

关注微信公众号“教辅资料站”获取更多学习资料

练习11 习题课

用时：____分____秒 错误：　个

A组 常规口算题

◆ 把下面的小数化成分数。

0.11 =　　0.05 =

0.27 =　　0.75 =

0.125 =　　0.67 =

0.36 =　　0.375 =

0.47 =　　0.12 =

0.55 =　　0.004 =

0.029 =　　0.117 =

0.97 =　　0.04 =

0.81 =　　0.105 =

0.6 =　　0.571 =

1.27 =　　0.93 =

0.042 =　　0.015 =

2.5 =　　0.68 =

0.84 =　　1.08 =

◆ 把下面的分数化成小数。

$\frac{3}{10}$ =(　　)

$\frac{7}{8}$ =(　　)

$\frac{112}{100}$ =(　　)

$\frac{39}{100}$ =(　　)

$\frac{7}{10}$ =(　　)

$\frac{9}{5}$ =(　　)

$\frac{17}{10}$ =(　　)

$\frac{9}{100}$ =(　　)

$\frac{51}{100}$ =(　　)

$\frac{19}{100}$ =(　　)

$\frac{9}{20}$ =(　　)

B组 变式口算题

1. 在直线上面的□里填上小数，在直线下面的□里填上分数。

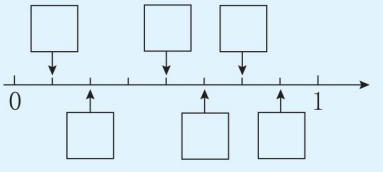

2. 把$\frac{7}{8}$、0.6、1.75、$\frac{19}{20}$按从大到小的顺序排列。

_____

荣德基星级口算天天练

关注微信公众号“教辅资料站”获取更多学习资料

第三单元口算能力测试

用时：____分____秒　错误：　个

A组 常规口算题

◆ 把下面的分数化成最简分数。

$\frac{40}{30}=$

$\frac{10}{15}=$

$\frac{10}{8}=$

$\frac{14}{35}=$

$\frac{8}{58}=$

$\frac{40}{16}=$

$\frac{15}{90}=$

$\frac{28}{56}=$

$\frac{20}{36}=$

$\frac{12}{8}=$

$\frac{21}{18}=$

◆ 小数和分数互化。

$\frac{3}{4}=$

$\frac{7}{8}=$

0.42 =

$\frac{7}{5}=$

0.125 =

$\frac{31}{25}=$

$\frac{9}{40}=$

$\frac{14}{5}=$

1.2 =

$\frac{13}{50}=$

2.6 =

12 和 9

最大公因数是(　　)

最小公倍数是(　　)

24 和 60

最大公因数是(　　)

最小公倍数是(　　)

15 和 45

最大公因数是(　　)

最小公倍数是(　　)

39 和 13

最大公因数是(　　)

最小公倍数是(　　)

18 和 24

最大公因数是(　　)

最小公倍数是(　　)

B组 变式口算题

1. 小明看一本故事书，第一周看了全书的$\frac{5}{16}$，第二周看了全书的$\frac{7}{16}$，两周一共看了这本书的(　　)，还剩(　　)没有看。

2. 一根铁丝长$\frac{7}{10}$米，比另一根铁丝长$\frac{3}{10}$米，这两根铁丝一共长(　　)米。

3. 有A、B两种报纸，A种报纸每3天发行一次，B种报纸每5天发行一次，如果A、B两种报纸今天一起发行，那么至少再有(　　)天它们又在同一天发行。

荣德基星级口算天天练

关注微信公众号“教辅资料站”获取更多学习资料

难易等级：

练习1 位 置

用时：____分____秒 错误：　个

A组 常规口算题

$\frac{1}{8}+\frac{7}{8}=$	$\frac{19}{24}-\frac{13}{24}=$	$\frac{19}{36}+\frac{3}{36}=$	$\frac{11}{8}-\frac{1}{8}=$
$\frac{3}{7}+\frac{4}{7}=$	$\frac{11}{14}-\frac{3}{14}=$	$\frac{1}{20}+\frac{7}{20}=$	$\frac{7}{12}-\frac{1}{12}=$
$1-\frac{9}{16}=$	$\frac{3}{14}+\frac{3}{14}=$	$\frac{9}{11}-\frac{7}{11}=$	$\frac{3}{4}+\frac{3}{4}=$
$\frac{3}{8}+\frac{3}{8}=$	$\frac{7}{15}-\frac{2}{15}=$	$\frac{1}{6}+\frac{1}{6}=$	$\frac{4}{7}-\frac{3}{7}=$
$\frac{5}{18}+\frac{7}{18}=$	$\frac{9}{30}-\frac{3}{30}=$	$\frac{2}{5}+\frac{4}{5}=$	$\frac{11}{16}-\frac{3}{16}=$
$\frac{2}{5}+\frac{1}{5}=$	$\frac{8}{15}-\frac{2}{15}=$	$\frac{5}{10}+\frac{2}{10}=$	$\frac{17}{20}-\frac{7}{20}=$
$\frac{13}{45}+\frac{23}{45}=$	$\frac{5}{21}+\frac{17}{21}=$	$\frac{17}{39}-\frac{4}{39}=$	$\frac{5}{18}+\frac{11}{18}=$
$\frac{11}{12}+\frac{2}{12}=$	$\frac{9}{11}-\frac{2}{11}=$	$\frac{9}{10}+\frac{2}{10}=$	$\frac{14}{17}-\frac{11}{17}=$
$\frac{7}{15}+\frac{8}{15}=$	$\frac{7}{16}-\frac{5}{16}=$	$\frac{3}{19}+\frac{8}{19}=$	$\frac{11}{14}-\frac{4}{14}=$
$\frac{8}{21}+\frac{6}{21}=$	$\frac{9}{20}+\frac{17}{20}=$	$\frac{7}{13}-\frac{4}{13}=$	$\frac{5}{8}+\frac{2}{8}=$
$\frac{11}{32}-\frac{3}{32}=$	$\frac{8}{33}+\frac{3}{33}=$	$\frac{19}{47}-\frac{7}{47}=$	$\frac{3}{16}+\frac{5}{16}=$

B组 变式口算题

下图是五(1)班座位分布情况。



1. 小文在第(　　)列第(　　)行，用数对表示她的位置是(　　)。
2. 位于第4列第3行的是(　　)，用数对表示她的位置是(　　)。
3. 坐在(2,2)这个位置上的是(　　)，坐在(1,4)这个位置上的是(　　)。
4. 小军和小强在同一(　　)，小丽、小文和小兰在同一(　　)。

荣德基 星级口算大天空

关注微信公众号“教辅资料站”获取更多学习资料

练习2　习题课

用时：____分____秒　错误：　个

A组　常规口算题

$\frac{4}{9}+\frac{2}{9}=$	$\frac{7}{8}-\frac{3}{8}=$	$\frac{7}{8}-\frac{5}{8}-\frac{1}{8}=$
$\frac{3}{4}-\frac{1}{4}=$	$\frac{2}{7}+\frac{4}{7}=$	$1-\frac{10}{13}-\frac{2}{13}=$
$\frac{8}{9}-\frac{1}{9}=$	$\frac{7}{10}+\frac{3}{10}=$	$1-\frac{13}{34}-\frac{12}{34}=$
$\frac{4}{7}-\frac{3}{7}=$	$\frac{3}{8}+\frac{1}{8}=$	$\frac{1}{9}+\frac{5}{9}+\frac{2}{9}=$
$\frac{1}{9}+\frac{2}{9}=$	$\frac{2}{11}-\frac{1}{11}=$	$\frac{7}{10}-\frac{1}{10}-\frac{3}{10}=$
$\frac{7}{9}-\frac{5}{9}=$	$\frac{14}{15}+\frac{2}{15}=$	$\frac{8}{18}-\frac{7}{18}-\frac{1}{18}=$
$\frac{1}{13}+\frac{2}{13}=$	$\frac{14}{17}-\frac{8}{17}=$	$\frac{6}{19}+\frac{15}{19}+\frac{4}{19}=$
$\frac{7}{10}-\frac{3}{10}=$	$\frac{2}{9}+\frac{5}{9}=$	$\frac{10}{13}-\frac{7}{13}+\frac{3}{13}=$
$\frac{1}{9}+\frac{7}{9}=$	$\frac{5}{11}-\frac{1}{11}=$	$\frac{2}{9}+\frac{3}{9}+\frac{4}{9}=$
$1+\frac{8}{11}=$	$\frac{12}{25}-\frac{9}{25}=$	$1-\frac{2}{3}-\frac{1}{3}=$
$\frac{3}{7}+\frac{3}{7}=$	$\frac{5}{9}-\frac{5}{9}=$	$\frac{39}{40}-\frac{17}{40}-\frac{9}{40}=$

B组　变式口算题

下面是小红家所在街区的平面图。

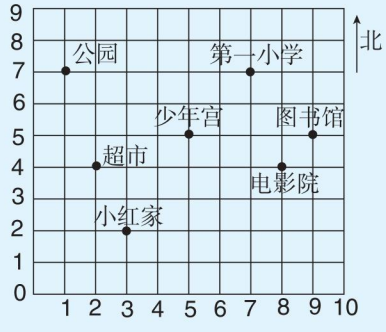

1. 请用数对表示小红家、图书馆和第一小学的位置。
小红家：(　　)　图书馆：(　　)
第一小学：(　　)
2. 在图上标出下列场所的位置。
娱乐场(7,4)　理发店(6,6)　饭店(3,5)
3. 小红从家去图书馆，要先向东走(　　)格，再向北走(　　)格。如果再去第一小学，应先向(　　)走(　　)格，再向(　　)走(　　)格，或先向(　　)走(　　)格，再向(　　)走(　　)格。

荣德基星级口算天天练

关注微信公众号“教辅资料站”获取更多学习资料

练习3 方向与位置

用时：____分____秒 错误：　个

A组 常规口算题

$\frac{5}{7}-\frac{3}{7}=$	$\frac{3}{8}+\frac{3}{8}=$	$\frac{2}{9}+\frac{3}{9}+\frac{4}{9}=$
$\frac{11}{12}-\frac{1}{12}=$	$\frac{3}{10}+\frac{7}{10}=$	$1-\frac{2}{3}-\frac{1}{3}=$
$\frac{7}{8}-\frac{1}{8}=$	$\frac{1}{10}+\frac{3}{10}=$	$\frac{39}{40}-\frac{17}{40}-\frac{9}{40}=$
$\frac{6}{7}-\frac{2}{7}=$	$\frac{3}{8}+\frac{5}{8}=$	$\frac{6}{7}+\frac{5}{7}+\frac{4}{7}=$
$\frac{4}{9}+\frac{1}{9}=$	$\frac{7}{9}-\frac{2}{9}=$	$\frac{1}{14}+\frac{5}{14}+\frac{3}{14}=$
$\frac{3}{10}+\frac{9}{10}=$	$\frac{4}{5}-\frac{2}{5}=$	$\frac{1}{4}+\frac{1}{4}+\frac{3}{4}=$
$\frac{4}{23}+\frac{2}{23}=$	$\frac{14}{17}-\frac{2}{17}=$	$\frac{27}{46}-\frac{15}{46}-\frac{5}{46}=$
$\frac{9}{11}-\frac{3}{11}=$	$\frac{5}{7}+\frac{1}{7}=$	$\frac{4}{21}+\frac{2}{21}-\frac{3}{21}=$
$\frac{2}{7}+\frac{5}{7}=$	$\frac{12}{13}-\frac{8}{13}=$	$\frac{4}{13}+\frac{4}{13}+\frac{5}{13}=$
$6+\frac{1}{9}=$	$\frac{7}{9}-\frac{1}{9}=$	$\frac{7}{25}+\frac{8}{25}-\frac{9}{25}=$
$\frac{3}{11}+\frac{7}{11}=$	$\frac{5}{14}-\frac{3}{14}=$	$\frac{15}{40}-\frac{7}{40}+\frac{2}{40}=$

B组 变式口算题

填一填。

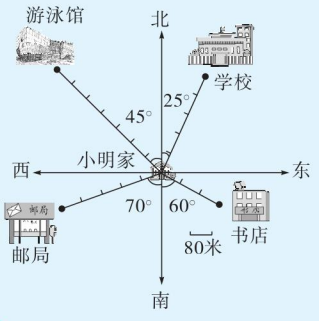

1. 学校在小明家北偏（　　）的方向上，距离是（　　）米。
2. 书店在小明家（　　）偏（　　）的方向上，距离是（　　）米。
3. 小明家在邮局（　　）偏（　　）的方向上，距离是（　　）米。
4. 小明家在游泳馆（　　）偏（　　）的方向上，距离是（　　）米。

荣德基星级口算天天练

关注微信公众号“教辅资料站”获取更多学习资料

练习4　行走路线

用时：____分____秒　错误：　个

A组　常规口算题

$\frac{6}{11}-\frac{5}{11}=$	$\frac{4}{8}+\frac{1}{8}=$	$\frac{7}{8}-\frac{5}{8}-\frac{1}{8}=$
$\frac{4}{5}-\frac{1}{5}=$	$\frac{8}{13}-\frac{5}{13}=$	$1-\frac{10}{13}-\frac{2}{13}=$
$\frac{8}{52}-\frac{4}{52}=$	$\frac{9}{20}+\frac{4}{20}=$	$1-\frac{13}{34}-\frac{12}{34}=$
$\frac{11}{22}+\frac{10}{22}=$	$\frac{7}{9}-\frac{3}{9}=$	$\frac{1}{9}+\frac{5}{9}+\frac{2}{9}=$
$\frac{9}{18}-\frac{6}{18}=$	$\frac{8}{9}-\frac{2}{9}=$	$\frac{7}{10}-\frac{1}{10}-\frac{3}{10}=$
$\frac{5}{6}-\frac{1}{6}=$	$\frac{11}{12}-\frac{9}{12}=$	$\frac{8}{18}-\frac{7}{18}-\frac{1}{18}=$
$\frac{4}{7}+\frac{1}{7}=$	$\frac{9}{14}+\frac{5}{14}=$	$\frac{6}{19}+\frac{15}{19}+\frac{4}{19}=$
$\frac{4}{23}-\frac{2}{23}=$	$\frac{8}{51}-\frac{1}{51}=$	$\frac{10}{13}-\frac{7}{13}+\frac{3}{13}=$
$\frac{3}{8}+\frac{1}{8}=$	$\frac{5}{16}+\frac{7}{16}=$	$\frac{8}{10}-\frac{7}{10}+\frac{5}{10}=$
$\frac{7}{18}-\frac{5}{18}=$	$\frac{6}{15}-\frac{3}{15}=$	$\frac{6}{24}+\frac{4}{24}-\frac{3}{24}=$

B组　变式口算题

下面是某地5路公共汽车的行驶路线图。

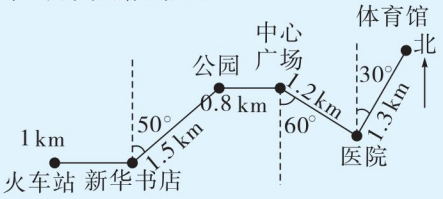

1. 5路公共汽车从火车站出发，向(　　)行(　　)千米到达新华书店，再向北偏(　　)50°方向行(　　)千米到达公园。
2. 从中心广场向(　　)偏(　　)(　　)°方向行(　　)千米到达医院，再向(　　)偏(　　)(　　)°方向行(　　)千米到达体育馆。

荣德基星级口算天天练

关注微信公众号“教辅资料站”获取更多学习资料

第四单元口算能力测试

用时：____分____秒 错误：　个

A组 常规口算题

$\frac{9}{23}+\frac{6}{23}=$	$\frac{16}{47}+\frac{6}{47}=$	$\frac{21}{29}-\frac{6}{29}-\frac{10}{29}=$
$\frac{17}{34}-\frac{9}{34}=$	$\frac{29}{38}-\frac{9}{38}=$	$\frac{10}{33}+\frac{13}{33}+\frac{2}{33}=$
$\frac{7}{30}+\frac{4}{30}=$	$\frac{43}{53}+\frac{3}{53}=$	$\frac{15}{17}-\frac{6}{17}-\frac{3}{17}=$
$\frac{7}{12}-\frac{5}{12}=$	$\frac{49}{71}-\frac{32}{71}=$	$\frac{30}{41}-\frac{15}{41}-\frac{9}{41}=$
$\frac{7}{10}-\frac{1}{10}=$	$\frac{6}{15}+\frac{2}{15}=$	$\frac{3}{40}+\frac{7}{40}+\frac{5}{40}=$
$\frac{13}{15}+\frac{1}{15}=$	$\frac{7}{83}-\frac{2}{83}=$	$\frac{47}{56}-\frac{13}{56}-\frac{2}{56}=$
$\frac{15}{16}-\frac{11}{16}=$	$\frac{25}{90}+\frac{20}{90}=$	$\frac{26}{27}-\frac{13}{27}-\frac{4}{27}=$
$\frac{13}{45}-\frac{7}{45}=$	$\frac{31}{99}-\frac{20}{99}=$	$\frac{1}{18}+\frac{5}{18}+\frac{3}{18}=$
$\frac{6}{14}+\frac{8}{14}=$	$\frac{5}{6}-\frac{1}{6}=$	$\frac{12}{13}-\frac{7}{13}+\frac{4}{13}=$
$\frac{9}{10}-\frac{3}{10}=$	$\frac{11}{13}+\frac{1}{13}=$	$\frac{16}{17}+\frac{6}{17}-\frac{8}{17}=$

B组 变式口算题

看图填空。

1. 小红上学时，从家出发，先向（　　）偏（　　）（　　）°方向走（　　）米，到达打谷场，再向（　　）走（　　）米，到达养猪场，又向（　　）偏（　　）（　　）°方向走（　　）米，到达商店，最后向（　　）偏（　　）（　　）°方向走（　　）米，到达学校。

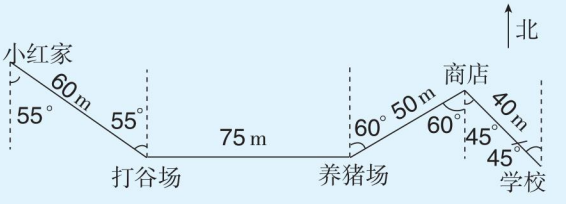

2. 小红放学回家时，从学校出发，先向（　　）方向走（　　）米，到达商店，再向（　　）方向走（　　）米，到达养猪场，又向（　　）走（　　）米到达打谷场，最后向（　　）方向走（　　）米到家。

荣德基星级口算天天练

关注微信公众号“教辅资料站”获取更多学习资料

参考答案

第一单元

练习1（第1页）

A组

0.21	0.5	5
0.92	2.8	4.29
16	5.975	0
10	3	0.91
0.5	0.9	64.78
0.2	1.2	2
100	9.2	0
20	30	7.8
9	8.02	1.36
8	0.07	0.75
0.2	4.5	10
9.9	0.3	0
0.6	0.074	100
0.27	0.09	0.06
0.01	0.035	5
6	0.4	30

B组

−10　　0

零下十摄氏度　零摄氏度

10　　−5

零上十摄氏度　零下五摄氏度

练习2（第2页）

A组

1.08	8.48	9.6
0.02	7.2	10
0.08	0.47	0
1.2	1.8	6
1.2	0	3.9
2.1	5.1	6
12.6	8	0.6
50	1.28	30
2	2000	7.5
11.29	1.2	0.62
1.3	4.89	8
1.1	10.5	0.33
4	0.98	0.15
31	3	5.76
0.488	0.2	0
201.2	180	3.2
34.25	0.4	10.93

B组

1. +3658　−11034

2. 西　3. −20°　4. −40

第一单元 口算能力测试（第3页）

A组

5.67	10.5	0.64
0.05		
2.1	1	
1.2	11	43
0.8	0.16	0.4
5	4.5	0
9.18	0.186	210
250	9	1.5
11.2	25.2	65
0.132	0.2	6
2	0.6	0.075
0.0068	0.7	9
3	9	24
450	0.38	2.7
6.5	0.05	9
32	0.3	7.4

B组

1. 正数　+17、284、$\frac{3}{4}$、$+\frac{5}{9}$、0.14

负数　−5、−100、−125、−1.5、$-\frac{1}{2}$

2.

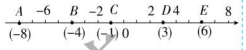

第二单元

练习1（第4页）

A组

0.56	0.8	6
7	9	4.4
20.4	0.3	0.7
75	0.01	1.08
0.9	560	3
1	16	0.43
0.02	0.9	0.8
3.6	0.5	0.77
20	42.9	0.4
2.5	5.74	86.5
12	2.4	7
0.69	1.2	12
35	20	0.8
0.5	0.328	30
2	0.4	1
4.45	33	0.6

B组

1. $\frac{5}{6}$　$\frac{5}{8}$　$\frac{3}{9}$　2. $\frac{1}{10}$

练习2（第5页）

A组

12	0.61	8.16
3.99	0	0.092
1.1	1.2	9.4
4.5	0.48	0.2
0.93	0.04	36.2
0.88	8.1	1.3
0.1125	0.41	5
0.02	5.14	80
0.84	7.6	2.22
1.2	2	4.92
0	7.82	0.5
60	5.6	0.2
40	12.6	46.8
2	30	2.88
0.6	100	2
72.9	10	100

B组

1.

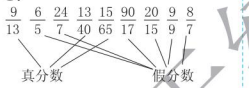

2.



练习3（第6页）

A组

0.2	0	0.9
0.035	5	2.2
0.73	0.2	6.318
5.5	1.4	0.2
0.72	28.2	42.24
2	3	2
5	2.46	0.5
54	1.2	10.4
2.4	43.4	32.92
6.15	33	3.85
1.5	1.17	0.2
0.35	6	1.9
4.2	10.8	0.98
1	0.55	5.1
7.2	0.152	0.6
900	13	50

B组

1. $\frac{1}{43}$　27　$\frac{1}{157}$　68

2.

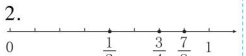

练习4（第7页）

A组

$\frac{12}{17}$	5	11	$\frac{9}{4}$	
$\frac{73}{105}$	14	65	51	49
$\frac{21}{64}$	11	45	$\frac{43}{17}$	
$\frac{9}{101}$	27	85	5	94
$\frac{31}{75}$	66	121	$\frac{66}{13}$	
$\frac{46}{83}$	56	91	15	7
$\frac{28}{65}$	35	102	$\frac{12}{5}$	
$\frac{33}{79}$	41	83	51	26
$\frac{81}{100}$	76	211	$\frac{23}{17}$	
$\frac{9}{37}$	15	51	29	8
$\frac{37}{87}$	23	65	$\frac{107}{43}$	
$\frac{12}{49}$	14	47	21	5

B组

1. $\frac{2}{5}$　2. $\frac{7}{15}$　$\frac{7}{45}$

练习5（第8页）

A组

$\frac{7}{10}$	7	$7\frac{1}{3}$
$\frac{23}{60}$	8	3
$\frac{99}{1000}$	$3\frac{5}{7}$	$4\frac{3}{13}$
$\frac{53}{100}$	3	$2\frac{3}{6}$
$\frac{19}{24}$	$4\frac{3}{8}$	$6\frac{4}{5}$
$\frac{79}{1000}$	$4\frac{4}{5}$	$6\frac{1}{9}$
$\frac{41}{1000}$	$7\frac{1}{2}$	$4\frac{5}{7}$
$\frac{43}{10000}$	3	$13\frac{1}{3}$
$\frac{59}{1000}$	$2\frac{3}{11}$	$4\frac{6}{7}$
$\frac{9}{10}$	$5\frac{2}{6}$	$2\frac{7}{9}$
$\frac{23}{60}$	5	3
$\frac{7}{12}$		
$\frac{33}{100}$		

B组

$\frac{5}{7}$		$\frac{32}{16}$	2
$\frac{130}{54}$	$2\frac{22}{54}$	$\frac{18}{19}$	

请沿此虚线裁剪下使用

关注微信公众号“教辅资料站”获取更多学习资料

$\frac{56}{14}$ 4 $\frac{41}{18}$ $2\frac{5}{18}$
$\frac{16}{21}$ $\frac{33}{72}$

练习6（第9页）

A组

$\frac{3}{11}$ $1\frac{1}{5}$ 3
28 17 $1\frac{1}{2}$ $4\frac{2}{5}$
$\frac{13}{15}$ 15 9
35 94 $2\frac{7}{8}$ $3\frac{11}{13}$
$\frac{5}{23}$ 2 8
23 6 4 $7\frac{3}{5}$
$\frac{4}{35}$ $2\frac{2}{9}$ $7\frac{6}{7}$
50 6 $2\frac{1}{7}$ $2\frac{5}{9}$
$\frac{17}{30}$ 6 $3\frac{1}{13}$
3 2 $3\frac{1}{8}$ 2

B组

1. $\frac{1}{6}$ $\frac{5}{6}$
2. $\frac{1}{17}$ $\frac{8}{17}$
3. $\frac{6}{15}$ $\frac{9}{15}$
4. $\frac{77}{320}$ $\frac{83}{320}$

练习7（第10页）

A组

6 2 1. $\frac{9}{15}$ $\frac{10}{15}$
15 7 2. $\frac{1}{2}$ $\frac{3}{2}$
6 15 3. $\frac{10}{16}$ $\frac{28}{16}$
15 12 4. $\frac{42}{30}$ $\frac{9}{30}$
2 5 5. $\frac{3}{8}$ $\frac{20}{8}$
49 1
5 21
15 36
3 5
2 18
7 45
4 30

B组

1. 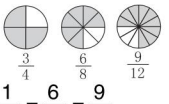

$\frac{1}{4}=\frac{6}{8}=\frac{9}{12}$

2. × √ × √

练习8（第11页）

A组

5 35 4
5 4 36
2 9
2 8 9 5
4 44
×4 48 4
÷6 6 ÷15 1
÷6 5
÷7 3 27
3 75
2
×5 80 2 4
÷28 7 56
÷28 1 7
3 39 7
3 7 5
9 99 7 28
9 7
5 2
5 9 2 16
3 21 2
3 2 64

B组

1. (1) $\frac{8}{20}$ $\frac{10}{25}$ $\frac{12}{30}$
(2) $\frac{8}{12}$ $\frac{4}{6}$ $\frac{2}{3}$
(3) $\frac{72}{144}$ $\frac{216}{432}$
2. $\frac{6}{24}$ $\frac{10}{24}$ $\frac{3}{24}$ $\frac{16}{24}$ $\frac{5}{24}$ $\frac{20}{24}$

练习9（第12页）

A组

40 $\frac{15}{16}$ $1\frac{13}{27}$
12 4 $5\frac{1}{4}$
12 $\frac{17}{15}$ 8
16 7 $1\frac{3}{5}$
24 7 15 $5\frac{2}{3}$
18 $\frac{14}{11}$ 9
9 8 23 $7\frac{1}{4}$
18 $\frac{7}{16}$ $3\frac{4}{7}$
32 17 40 3
30 47 15 $1\frac{7}{8}$
1 16 53

B组

1. 略。 2. $\frac{8}{5}$ 3. $\frac{1}{12}$ 4. $\frac{32}{50}$

第二单元 口算能力测试（第13页）

A组

27 $\frac{5}{8}$ $1\frac{7}{13}$
28 7 16 $1\frac{11}{15}$
2 5 18 5
54 7 4 $3\frac{1}{2}$
24 $\frac{6}{13}$ $1\frac{4}{5}$
51 $\frac{11}{17}$ 3
1 8 3 $2\frac{5}{6}$
14 9 24 $1\frac{1}{10}$
5 15 24 $6\frac{1}{3}$
3 2 5 $2\frac{1}{11}$
27 37

B组

1. $\frac{25}{60}$ $\frac{40}{100}$ $\frac{38}{100}$ $\frac{16}{24}$
2. $\frac{1}{5}$ $\frac{4}{5}$ $\frac{7}{5}$ $\frac{10}{5}$ $1\frac{2}{5}$ $2\frac{4}{5}$

第三单元 练习1（第14页）

A组

1,5 1,7
1,3,9 1,19
1 1
1 1
1,2,4,8 1,2,3,6,9,18
1,2,5,10 1,3,9,27
1,2 1,3,9
2 9
1,2,4,5,10,20 1,2,4,8,16,32
1,3,5,9,15,45 1,2,4,8,16,32,64
1,5 1,2,4,8,16,32
5 32
1,2,4,8,16 1,2,7,14
1,2,4 1,2,5,6,15,3,10,30
1,2,4 1,2
4 2

B组

1.
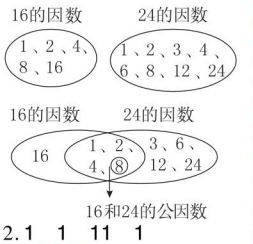

2. 1 1 11 1

练习2（第15页）

A组

1 3 3
4 1 1
9 5 3
1 1 7
8 16 3
1 1 13
13 11 3
5 1 1
1 7 2
10 1 12
11 12
1 1
2 18
8 3

B组

1. 4
2. 6 7 6
3. 4

练习3（第16页）

A组

÷12 2 ÷7 11
÷12 3 ÷7 3
÷3 10 ÷2 8
÷3 9 ÷2 21
÷3 1 ÷6 4
÷3 4 ÷6 3
÷6 2 ÷27 1
÷6 5 ÷27 2
÷6 2 ÷5 7
÷6 3 ÷5 6
÷3 5 ÷2 2
÷3 3 ÷2 9
÷6 3 ÷3 3
÷6 7 ÷3 4

B组

1. $\frac{18}{36}=\frac{1}{2}$ $\frac{33}{99}=\frac{1}{3}$ $\frac{14}{28}=\frac{1}{2}$
2. $\frac{8}{12}$ $\frac{3}{7}$ $\frac{4}{10}$ $\frac{12}{16}$
$\frac{9}{21}$ $\frac{15}{20}$ $\frac{2}{3}$ $\frac{10}{25}$

荣德基星级口算天天练

请沿此虚线裁剪下使用

关注微信公众号“教辅资料站”获取更多学习资料

练习4（第17页）

A组

$\frac{2}{3}$	$\frac{1}{4}$	$\frac{2}{5}$
$\frac{1}{4}$	$\frac{11}{17}$	$\frac{3}{5}$
$\frac{11}{10}$	$\frac{2}{11}$	$\frac{21}{5}$
$\frac{6}{17}$	$\frac{5}{6}$	$\frac{8}{15}$
$\frac{5}{7}$	$\frac{7}{13}$	$\frac{12}{5}$
$\frac{9}{19}$	1	$\frac{9}{20}$
$\frac{6}{7}$	$\frac{1}{13}$	$\frac{3}{4}$
$\frac{2}{3}$	$\frac{11}{9}$	$\frac{9}{50}$
3	$\frac{1}{8}$	$\frac{7}{12}$
$1\frac{3}{7}$	$\frac{5}{19}$	$\frac{3}{10}$
$\frac{3}{4}$	$\frac{3}{14}$	$\frac{17}{30}$
$\frac{1}{4}$	$\frac{7}{9}$	$\frac{7}{6}$

B组

1. $\frac{3}{8}$ $\frac{4}{8}$ $\frac{3}{8}+\frac{4}{8}=\frac{7}{8}$ $\frac{5}{11}$ $\frac{4}{11}$ $\frac{5}{11}+\frac{4}{11}=\frac{9}{11}$

2. 1 $\frac{29}{33}$ $\frac{18}{29}$

练习5（第18页）

A组

8	32	÷13 $\frac{1}{2}$ ÷13
2	14	÷5 $\frac{7}{9}$ ÷5
39	78	÷3 $\frac{5}{8}$ ÷3
4	20	÷2 $\frac{7}{18}$ ÷2
7	72	÷9 $\frac{1}{3}$ ÷9
17	51	÷6 $\frac{4}{7}$ ÷6
6	18	÷10 $\frac{2}{3}$ ÷10
1	35	
5	12	
7	12	

B组

1. $\frac{5}{8}-\frac{3}{8}$ $\frac{7}{24}-\frac{1}{24}$ $\frac{3}{16}+\frac{1}{16}$ $\frac{1}{6}+\frac{1}{6}$ $\frac{9}{12}-\frac{5}{12}$ $\frac{1}{18}+\frac{5}{18}$

2. $\frac{1}{3}$ $\frac{2}{9}$

练习6（第19页）

A组

$\frac{1}{2}$	$\frac{3}{4}$	$\frac{15}{7}$
$\frac{2}{9}$	$\frac{13}{17}$	$\frac{9}{14}$
$\frac{6}{5}$	$\frac{2}{11}$	$\frac{5}{4}$
$\frac{2}{5}$	$\frac{2}{3}$	2
$\frac{8}{9}$	$\frac{1}{2}$	$\frac{13}{12}$
$\frac{5}{17}$	1	$\frac{1}{4}$
$\frac{4}{3}$	$\frac{8}{19}$	$\frac{10}{11}$
1	$\frac{16}{19}$	$\frac{1}{15}$
2	$\frac{1}{8}$	$\frac{16}{13}$
$2\frac{6}{7}$	$\frac{7}{19}$	$\frac{1}{5}$
$\frac{5}{4}$	$\frac{7}{11}$	0

B组

$\frac{5}{9}$ $\frac{6}{11}$ $\frac{1}{3}$ $\frac{6}{35}$ $\frac{5}{14}$ $\frac{1}{2}$

练习7（第20页）

A组

$\frac{2}{5}$	$\frac{19}{29}$	$\frac{15}{23}$
$\frac{4}{7}$	$\frac{3}{13}$	$\frac{13}{17}$
$\frac{4}{29}$	$\frac{14}{23}$	$\frac{25}{29}$
$\frac{2}{3}$	$\frac{16}{53}$	$\frac{8}{41}$
$\frac{1}{7}$	$\frac{4}{15}$	$\frac{8}{37}$
$\frac{11}{41}$	$\frac{9}{17}$	$\frac{10}{11}$
$\frac{10}{17}$	$\frac{29}{31}$	$\frac{5}{43}$
$\frac{4}{21}$	$\frac{2}{11}$	$\frac{15}{19}$
$\frac{13}{35}$	$\frac{33}{43}$	$\frac{8}{59}$
$\frac{11}{13}$	$\frac{2}{19}$	$\frac{1}{13}$
$\frac{22}{43}$	$\frac{13}{23}$	$\frac{30}{31}$
$\frac{12}{19}$	$\frac{54}{59}$	$\frac{41}{53}$

B组

1. $\frac{4}{5}$
2. $\frac{3}{5}$
3. $\frac{4}{5}$

练习8（第21页）

A组

6、12、18	12、24、36	
6	12	
12、24、36	15、30、45	
12	15	
70、140、210	30、60、90	
70	30	
52、104、156	110、220、330	
52	110	
35、70、105	40、80、120	
35	40	
9、18、27	42、84、126	
9	42	
88、176、264	24、48、72	
88	24	
6、12、18	36、72、108	
6	36	

B组

1.

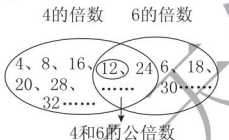

2. 14 16 56 44

练习9（第22页）

A组

8	1	51
77	3	32
70	9	90
130	2	55
33	2	120
18	14	72
210	3	24
26	2	54
380	17	91
16	3	54
25	5	
12	7	
63	5	
30	1	
36	18	

B组

1. 7月17日
2. 7时35分
3. 48

练习10（第23页）

A组

$\frac{51}{100}$	$\frac{127}{1000}$	0.25
$\frac{3}{10}$	$\frac{1}{4}$	0.8
$\frac{9}{20}$	$\frac{73}{100}$	0.75
$\frac{3}{50}$	$\frac{37}{100}$	0.4
$\frac{7}{10}$	$\frac{7}{50}$	0.125
$\frac{11}{20}$	$\frac{13}{20}$	0.55
$\frac{4}{5}$	$\frac{9}{10}$	0.875
$\frac{17}{100}$	$\frac{1}{50}$	0.3
$\frac{9}{50}$	$\frac{1}{8}$	1.2
$\frac{1}{25}$	$\frac{71}{100}$	0.19
$\frac{27}{100}$	$\frac{39}{100}$	
$\frac{11}{25}$	$\frac{43}{50}$	
$\frac{19}{20}$	$\frac{77}{100}$	
$\frac{31}{50}$	$\frac{12}{25}$	

B组

1. $0.3=\frac{3}{10}$ $0.9=\frac{9}{10}$

2. 十 $\frac{9}{10}$

3. 17 一百 $\frac{17}{100}$

练习11（第24页）

A组

$\frac{11}{100}$	$\frac{1}{20}$	0.3
$\frac{27}{100}$	$\frac{3}{4}$	0.875
$\frac{1}{8}$	$\frac{67}{100}$	1.12
$\frac{9}{25}$	$\frac{3}{8}$	0.39
$\frac{47}{100}$	$\frac{3}{25}$	0.7
$\frac{11}{20}$	$\frac{1}{250}$	1.8
$\frac{29}{1000}$	$\frac{117}{1000}$	1.7
$\frac{97}{100}$	$\frac{1}{25}$	0.09
$\frac{81}{100}$	$\frac{21}{200}$	0.51
$\frac{3}{5}$	$\frac{571}{1000}$	0.19
$\frac{127}{100}$	$\frac{93}{100}$	0.45
$\frac{21}{500}$	$\frac{3}{200}$	
$\frac{5}{2}$	$\frac{17}{25}$	
$\frac{21}{25}$	$\frac{27}{25}$	

请沿此虚线裁剪下使用

关注微信公众号“教辅资料站”获取更多学习资料

B 组

1. 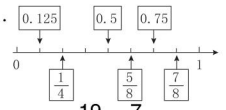

2. 1.75 > 19/20 > 7/8 > 0.6

第三单元 口算能力测试

（第 25 页）

A 组

4/3	0.75	3
2/3	0.875	36
5/4	21/50	12
2/5	1.4	120
4/29	1/8	15
5/2	1.24	45
1/6	0.225	13
1/2	2.8	39
5/9	6/5	6
3/2	0.26	72
7/6	13/5	

B 组

1. 3/4　1/4　2. 11/10　3. 15

第四单元 练习 1（第 26 页）

A 组

1	1/4	11/18	5/4
1	4/7	2/5	1/2
7/16	3/7	2/11	3/2
3/4	1/3	1/3	1/7
2/3	1/5	6/5	1/2
3/5	2/5	7/10	1/2
4/5	22/21	1/3	8/9
13/12	7/11	11/10	3/17
1	1/8	11/19	1/2
2/3	13/10	3/13	7/8
1/4	1/3	12/47	1/2

B 组

1. 3　4　（3,4）　2. 小云　（4,3）　3. 小强　小丽　4. 列　行

练习 2（第 27 页）

A 组

2/3	1/2	1/8
1/2	6/7	1/13
7/9	1	9/34
1/7	1/2	8/9
1/3	1/11	3/10
2/9	16/15	0
3/13	6/17	25/19
2/5	7/9	6/13
8/9	4/11	1
1 8/11	3/25	0
6/7	0	13/40

B 组

1. （3,2）　（9,5）　（7,7）　2. 略　3. 6　3　北　2　西　2　西　2　北　2

练习 3（第 28 页）

A 组

2/7	3/4	1
5/6	1	0
3/4	2/5	13/40
4/7	1	15/7
5/9	5/9	9/14
6/5	2/5	5/4
6/23	12/17	7/46
6/11	6/7	1/7
1	4/13	1
6 1/9	2/3	6/25
10/11	1/7	1/4

B 组

1. 东 25°　400　2. 南　东 60°　240　3. 北　东 70°　400　4. 南　东 45°　560

练习 4（第 29 页）

A 组

1/11	5/8	1/8
3/5	3/13	1/13
1/13	13/20	9/34
21/22	4/9	8/9
1/6	2/3	3/10
2/3	1/6	0
5/7	1	25/19
2/23	7/51	6/13
1/2	3/4	3/5
1/9	1/5	7/24

B 组

1. 东　1　东　1.5　2. 南　东　60　1.2　北　东　30　1.3

第四单元 口算能力测试

（第 30 页）

A 组

15/23	22/47	5/29
4/17	10/19	25/33
11/30	46/53	6/17
1/6	17/71	6/41
3/5	8/15	3/8
14/15	5/83	4/7
1/4	1/2	1/3
2/15	1/9	1/2
1	2/3	9/13
3/5	12/13	14/17

B 组

1. 南　东　55　60　东　75　北　东　60　50　南　东　45　40　2. 北偏西 45°　40　南偏西 60°　50　西　75　北偏西 55°　60

第五单元 练习 1（第 31 页）

A 组

4	4	12/40	8	8	24/56
5	5	25/40	7	7	7/56
13	13	65/78	3	3	27/33
6	6	24/78	11	11	22/33
2	2	10/24	3	3	15/36
3	3	9/24	4	4	16/36
3	3	9/30	10	10	50/110
2	2	6/30	11	11	77/110

B 组

>　<　>　<　<　<　<　<

练习 2（第 32 页）

A 组

24		45		72
8		56		20
48	15	5	20	40
3	8	25		20
21		14		12
3	12	5	12	88
1		3	18	18
18		21		33
2	10	18		35
51		4	12	30
5	15	3	10	

B 组

1. 黄豆　2. 1/7　2/11　陈军

练习 3（第 33 页）

A 组

2/3	4/15	10/18	7/18	1/6
5	27/35	5/14	7/14	6/7
1/3	3/7	20/24	9/24	11/24
2/7	1	8/36	15/36	23/36
2/3	2/17	10/12	7/12	1/4
11/28	5/6	14/30	9/30	23/30
8/9	2/3	33/36	26/36	7/36
2/7	6/13	17/24	2/24	19/24

荣星基础天天练

请沿此虚线裁剪下使用

关注微信公众号“教辅资料站”获取更多学习资料

$\frac{9}{25}$ $\frac{1}{4}$ $\frac{28}{38}$ $\frac{13}{38}$ $\frac{15}{38}$
$\frac{8}{3}$ $\frac{7}{9}$ $\frac{9}{42}$ $\frac{16}{42}$ $\frac{25}{42}$
$\frac{5}{7}$ $\frac{1}{2}$ $\frac{32}{34}$ $\frac{15}{34}$ $\frac{1}{2}$

B 组

1. $\frac{1}{2}-\frac{1}{3}=\frac{3}{6}-\frac{2}{6}=\frac{1}{6}$

2. 涂一涂略。$\frac{7}{8}$ $\frac{7}{9}$

练习 4（第 34 页）

A 组

$\frac{3}{4}$ $\frac{3}{8}$ $\frac{12}{14}$ $\frac{3}{14}$ $\frac{9}{14}$
$\frac{7}{27}$ $\frac{2}{17}$ $\frac{7}{12}$ $\frac{4}{12}$ $\frac{11}{12}$
$\frac{13}{21}$ $\frac{20}{29}$ $\frac{18}{21}$ $\frac{8}{21}$ $\frac{10}{21}$
$\frac{2}{5}$ $\frac{38}{53}$ $\frac{11}{16}$ $\frac{6}{16}$ $\frac{17}{16}$
$\frac{1}{2}$ $\frac{14}{27}$ $\frac{5}{8}$ $\frac{4}{8}$ $\frac{1}{8}$
$\frac{3}{5}$ $\frac{1}{5}$ $\frac{5}{12}$ $\frac{8}{12}$ $\frac{13}{12}$
$\frac{41}{56}$ $\frac{2}{3}$ $\frac{5}{14}$ $\frac{4}{14}$ $\frac{1}{14}$
$\frac{9}{7}$ $\frac{1}{2}$ $\frac{10}{24}$ $\frac{3}{24}$ $\frac{13}{24}$
$\frac{12}{25}$ $\frac{6}{7}$ $\frac{8}{18}$ $\frac{3}{18}$ $\frac{5}{18}$
$\frac{9}{31}$ $\frac{1}{3}$ $\frac{8}{36}$ $\frac{15}{36}$ $\frac{23}{36}$
$\frac{2}{13}$ $\frac{1}{16}$ $\frac{5}{21}$ $\frac{3}{21}$ $\frac{2}{21}$
$\frac{9}{12}$ $\frac{1}{12}$ $\frac{5}{6}$

B 组

1. (1)$\frac{1}{8}$ (2)$\frac{5}{8}$

2. $\frac{27}{40}$ $\frac{13}{40}$

练习 5（第 35 页）

A 组

$\frac{11}{9}$ $\frac{9}{8}$ $\frac{3}{8}$
$\frac{4}{19}$ $\frac{20}{27}$ $\frac{1}{3}$
$\frac{7}{9}$ $\frac{5}{14}$ $\frac{5}{14}$
$\frac{1}{10}$ $\frac{9}{14}$ $\frac{5}{16}$
$\frac{7}{8}$ $\frac{1}{3}$ $1\frac{5}{9}$
6 $\frac{1}{6}$ $1\frac{5}{7}$
$\frac{11}{24}$ $\frac{11}{9}$ $\frac{3}{13}$
$\frac{1}{9}$ $\frac{2}{3}$ $\frac{5}{6}$

$\frac{13}{42}$ $\frac{2}{9}$ $1\frac{4}{15}$
$\frac{2}{3}$ $\frac{1}{4}$ $\frac{5}{18}$
$\frac{13}{14}$ $\frac{19}{16}$ $\frac{1}{5}$

B 组

$\frac{4}{7}+\frac{3}{7}+\frac{5}{8}$

$\frac{2}{9}+\left(\frac{3}{4}+\frac{1}{4}\right)$

$\frac{5}{12}+\frac{7}{12}+\left(\frac{5}{9}+\frac{4}{9}\right)$

$\frac{6}{13}+\frac{7}{13}-\left(\frac{7}{15}+\frac{8}{15}\right)$

练习 6（第 36 页）

A 组

$\frac{1}{2}$ $\frac{8}{15}$ 2
$\frac{7}{12}$ $\frac{1}{2}$ $\frac{4}{7}$
$\frac{5}{16}$ $\frac{14}{19}$ $\frac{2}{17}$
$\frac{2}{3}$ $\frac{2}{9}$ $1\frac{7}{12}$
$\frac{67}{63}$ $\frac{11}{14}$ $\frac{1}{12}$
$\frac{20}{63}$ $\frac{27}{20}$ $\frac{5}{22}$
$\frac{2}{19}$ $\frac{8}{27}$ 2
$\frac{9}{56}$ $\frac{13}{17}$ $\frac{1}{4}$
$\frac{52}{63}$ $\frac{3}{20}$ $\frac{2}{9}$
$\frac{1}{6}$ $\frac{7}{8}$ $\frac{2}{3}$
$\frac{5}{11}$ $\frac{11}{23}$ $\frac{14}{19}$

B 组

1. $\frac{23}{30}$ 2. $\frac{1}{28}$ $\frac{15}{28}$ 3. $1\frac{1}{4}$

智慧广场（第 37 页）

A 组

$\frac{3}{17}$ $\frac{5}{9}$ $\frac{1}{14}$
$\frac{5}{4}$ 1 $3\frac{4}{13}$
$\frac{9}{16}$ $\frac{3}{10}$ $1\frac{5}{8}$
$\frac{9}{14}$ $\frac{1}{42}$ $\frac{27}{16}$
$\frac{6}{11}$ $\frac{16}{63}$ $\frac{7}{8}$
$\frac{3}{8}$ $\frac{1}{2}$ $1\frac{5}{14}$
$\frac{28}{65}$ $\frac{11}{5}$ $\frac{1}{18}$
$\frac{1}{3}$ $\frac{5}{16}$ $1\frac{2}{5}$

$\frac{3}{8}$ $\frac{17}{12}$ $1\frac{3}{7}$
$\frac{2}{3}$ $\frac{10}{9}$ $\frac{5}{6}$
$\frac{3}{11}$ $\frac{8}{15}$ $1\frac{1}{5}$
$\frac{1}{2}$ $\frac{6}{17}$ $1\frac{4}{7}$

B 组

1. 10 2. 6

第五单元 口算能力测试（第 38 页）

A 组

< $\frac{15}{23}$ $\frac{2}{9}$
> $\frac{11}{40}$ $\frac{9}{8}$
< $\frac{2}{3}$ $\frac{3}{5}$
< $\frac{17}{28}$ $\frac{4}{9}$
> $\frac{4}{5}$ $1\frac{7}{11}$
> $\frac{7}{15}$ 3
> $\frac{6}{7}$ $\frac{5}{11}$
< $\frac{4}{3}$ $1\frac{1}{5}$
< $\frac{10}{13}$ $1\frac{1}{4}$
< $\frac{13}{42}$ $\frac{1}{8}$
> $\frac{1}{3}$ $1\frac{6}{7}$
$\frac{11}{30}$ $\frac{4}{3}$

B 组

1. $\frac{8}{15}$ $\frac{7}{15}$ 2. $\frac{51}{60}$ 3. $\frac{47}{48}$

第六单元

练习 1（第 39 页）

A 组

$\frac{7}{9}$ 1 $\frac{2}{3}$
$\frac{1}{3}$ 1 $\frac{5}{12}$
$\frac{5}{36}$ $\frac{7}{10}$ $\frac{9}{13}$
$\frac{2}{7}$ $\frac{3}{4}$ $\frac{11}{14}$
$\frac{1}{3}$ $\frac{1}{3}$ $1\frac{3}{10}$
$\frac{1}{6}$ $\frac{4}{25}$ $\frac{4}{5}$
1 $\frac{3}{7}$ $\frac{1}{3}$

$\frac{3}{5}$ $\frac{5}{9}$ $\frac{5}{8}$
1 1 1
$\frac{1}{9}$ $\frac{1}{5}$ $1\frac{1}{5}$
$\frac{15}{16}$ $\frac{1}{2}$ $1\frac{1}{8}$
$\frac{1}{8}$ $\frac{4}{9}$ $\frac{1}{15}$

B 组

1. 二 380 2. 三 3. $\frac{19}{14}$

练习 2（第 40 页）

A 组

1 1 $1\frac{1}{4}$
$\frac{3}{4}$ $\frac{10}{9}$ $1\frac{4}{11}$
$\frac{1}{6}$ $\frac{20}{37}$ 0
2 $\frac{3}{28}$ $1\frac{5}{6}$
1 $\frac{11}{7}$ $\frac{1}{8}$
$\frac{61}{84}$ $\frac{11}{18}$ $\frac{5}{6}$
$\frac{3}{10}$ $\frac{8}{9}$ $\frac{7}{16}$
$\frac{9}{16}$ $\frac{1}{90}$ $\frac{17}{32}$
$\frac{1}{2}$ 2 $\frac{4}{9}$
$\frac{3}{16}$ $\frac{3}{5}$ $\frac{5}{8}$
$\frac{1}{9}$ $\frac{6}{7}$ $1\frac{1}{3}$
$\frac{13}{36}$ $\frac{1}{8}$ $\frac{3}{8}$

B 组

略

练习 3（第 41 页）

A 组

$\frac{2}{3}$ $\frac{2}{9}$ $1\frac{7}{12}$
$\frac{3}{2}$ $\frac{3}{5}$ $\frac{3}{25}$
$\frac{2}{9}$ $\frac{11}{17}$ 3
$\frac{5}{14}$ $\frac{13}{16}$ $\frac{16}{35}$
$\frac{5}{7}$ 1 $\frac{5}{21}$
$\frac{1}{9}$ $\frac{10}{9}$ $\frac{1}{18}$
$\frac{1}{6}$ 1 $\frac{11}{14}$
$\frac{3}{10}$ $\frac{1}{2}$ $1\frac{3}{7}$
$\frac{8}{21}$ $\frac{1}{3}$ $1\frac{2}{3}$

荣德基 星级口算天天练

请沿此虚线裁剪下使用

关注微信公众号“教辅资料站”获取更多学习资料

$\frac{2}{7}$ $\frac{2}{9}$ $1\frac{5}{18}$
$\frac{9}{14}$ $\frac{1}{10}$ $\frac{7}{8}$
$\frac{1}{3}$ $\frac{3}{4}$ $\frac{4}{11}$

B 组

1. 3 4 2. 1 4

第六单元 口算能力测试

（第 42 页）

A 组

$\frac{3}{2}$ $\frac{1}{24}$ $\frac{2}{5}$
$\frac{5}{9}$ $\frac{3}{5}$ 1
$\frac{3}{4}$ $\frac{6}{7}$ $\frac{11}{14}$
$\frac{1}{3}$ $\frac{1}{3}$ $\frac{7}{10}$
$\frac{1}{2}$ $\frac{21}{26}$ $\frac{1}{10}$
1 $\frac{7}{9}$ $\frac{1}{9}$
$\frac{1}{5}$ $\frac{1}{9}$ $1\frac{1}{5}$
1 1 1
$\frac{2}{7}$ 1 $\frac{4}{9}$
$\frac{4}{25}$ $\frac{1}{6}$ 0
$\frac{13}{9}$ $\frac{1}{4}$ $\frac{2}{3}$
$\frac{1}{2}$ $\frac{15}{16}$ $1\frac{1}{8}$

B 组

1. 6 12 2. $\frac{3}{16}$ 3. $\frac{1}{4}$

第七单元

练习 1（第 43 页）

A 组

$\frac{7}{9}$ $\frac{1}{8}$ $\frac{1}{15}$
$\frac{5}{36}$ $\frac{2}{3}$ $\frac{5}{12}$
$\frac{2}{3}$ $\frac{5}{12}$ $1\frac{4}{5}$
1 $\frac{1}{3}$ $\frac{5}{24}$
$\frac{3}{8}$ $\frac{8}{15}$ $\frac{3}{8}$
$\frac{5}{4}$ $\frac{4}{7}$ $1\frac{4}{11}$
$\frac{2}{15}$ $\frac{3}{4}$ 0
$\frac{5}{4}$ $\frac{1}{6}$ $\frac{1}{2}$
$\frac{5}{7}$ $\frac{4}{9}$ $1\frac{5}{6}$
$\frac{2}{3}$ $\frac{15}{56}$ $\frac{7}{9}$
$\frac{2}{3}$ $\frac{6}{7}$ $\frac{2}{7}$
1 2 $1\frac{3}{5}$

B 组

1. 6 12 8 完全相同 相等
2. 6 12 相等
3. 128
4. 20

练习 2（第 44 页）

A 组

1. (1)3.2 1.8 4 9 36
(2)12 6 7 25 100
(3)4.7 2.3 3 10 40
2. (1)0.15 1.8
(2)12 12 144
(3)4.5 12 54
(4)50 12 600
(5)1.5 12 18

B 组

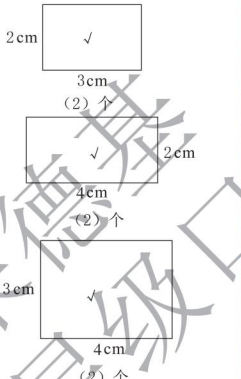

练习 3（第 45 页）

A 组

1. (1)24 30 20 148
(2)0.6 0.48 0.2 2.56
(3) 90 30 12 264
2. (1)400 2400
(2)16 96
(3)0.64 3.84
(4)2.25 13.5
(5)0.36 2.16

B 组

1. 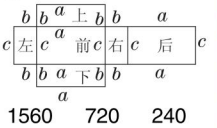

2. 1560 720 240
600 1560

练习 4（第 46 页）

A 组

1. (1)120 90 48 516
(2)2 5.6 0.7 16.6
(3)25 20 20 130
2. (1)625 3750
(2)225 1350
(3)0.16 0.96
(4)6.25 37.5
(5)1.21 7.26

B 组

1. 16 12 48 152 49
294
2. 4 5 6

练习 5（第 47 页）

A 组

$\frac{5}{9}$ $\frac{1}{2}$ 1.285
$\frac{3}{16}$ $\frac{9}{14}$ 620
$\frac{2}{35}$ $\frac{11}{15}$ 4.07
$\frac{4}{7}$ 1 1520
$\frac{5}{12}$ $\frac{3}{14}$ 6.5
$\frac{1}{12}$ $\frac{8}{15}$ 0.036
$\frac{5}{9}$ $\frac{10}{21}$ 0.75
$\frac{1}{5}$ $\frac{5}{18}$ 13.8
$\frac{7}{6}$ 1 0.502
$\frac{3}{11}$ $\frac{1}{3}$ 96300
$\frac{9}{8}$ $\frac{1}{3}$ 0.47
44000
0.843
12300
9205
7800

B 组

1. 立方厘米 2. 立方米
3. 立方分米 4. 立方分米
5. 立方米 6. 立方分米
7. 立方米 8. 立方厘米

练习 6（第 48 页）

A 组

$\frac{2}{3}$ $\frac{9}{28}$ 3.09
$\frac{1}{12}$ $\frac{23}{32}$ 5.2
$\frac{3}{7}$ $\frac{7}{24}$ 2300
$\frac{13}{20}$ $\frac{7}{9}$ 780
$\frac{7}{24}$ $\frac{1}{44}$ 5500
$\frac{1}{7}$ $\frac{1}{6}$ 8800
$\frac{32}{21}$ $\frac{3}{5}$ 9060
$\frac{1}{14}$ $\frac{9}{16}$ 5.5
$\frac{1}{5}$ $\frac{1}{3}$ 7.39
$\frac{33}{40}$ $\frac{23}{20}$ 5200
7770
55040
7002
8.04
9860
3.704

B 组

1. 毫升 升 毫升
2. 1000 7
3. 30 45

练习 7（第 49 页）

A 组

$\frac{4}{3}$ $\frac{1}{4}$ 3500
$\frac{1}{8}$ $\frac{1}{42}$ 7080
$\frac{1}{20}$ $\frac{25}{24}$ 9.009
$\frac{9}{10}$ $\frac{4}{5}$ 92000
$\frac{1}{2}$ $\frac{19}{21}$ 6.23
$\frac{5}{9}$ $\frac{4}{5}$ 7205
$\frac{2}{3}$ $\frac{1}{2}$ 0.498
$\frac{11}{10}$ $\frac{7}{8}$ 35800000
$\frac{7}{5}$ $\frac{5}{7}$ 74000
$\frac{1}{7}$ $\frac{5}{72}$ 6.03
$\frac{5}{6}$ $\frac{1}{2}$ 0.904
32800
72760
0.8097
6250
92500

B 组

1. 1 0.5 0.08 0.2
2. 0.25 1.5 0.125
3. 6 9000

练习 8（第 50 页）

A 组

$\frac{5}{7}$ + 30

荣德基星级口算天天练

请沿此虚线裁剪下使用

关注微信公众号“教辅资料站”获取更多学习资料

$\frac{7}{9}$ − 36
$\frac{1}{2}$ + 105
$\frac{1}{3}$ − 93
$\frac{11}{12}$ + 120
$\frac{23}{30}$ − 64
$\frac{1}{9}$ − 729
$\frac{17}{24}$ − 0.027
$\frac{1}{2}$ − 0.125
$\frac{3}{4}$ + 216
$\frac{11}{15}$
$\frac{5}{12}$

B 组

1. 336　6　91　3　36
2. 34　102
3. 0.64　0.512

练习 9（第 51 页）

A 组

1	$\frac{7}{8}$	102
$\frac{2}{3}$	1	270
$\frac{1}{2}$	$\frac{5}{9}$	238
$\frac{5}{4}$	$\frac{11}{9}$	90
$\frac{11}{28}$	$\frac{9}{10}$	36.6
$\frac{7}{12}$	$\frac{9}{14}$	1000
$\frac{1}{9}$	$\frac{5}{7}$	0.064
$\frac{4}{5}$	$\frac{2}{3}$	343
$\frac{1}{2}$	$\frac{8}{9}$	0.027
$\frac{11}{12}$	$\frac{35}{24}$	8
$\frac{25}{36}$	$\frac{3}{20}$	
$\frac{3}{8}$	$\frac{5}{12}$	

B 组

1. 300　3000
2. 16　64
3. 1.5
4. 2

练习 10（第 52 页）

A 组

$\frac{5}{8}$	0.67	340
$\frac{8}{7}$	0.73	5800
$\frac{1}{3}$	7060	505
$\frac{14}{45}$	5.08	88
$\frac{13}{15}$	75000	2.002
$\frac{24}{13}$	7802	9900
$\frac{7}{12}$	6007	550
$\frac{7}{4}$	0.505	0.303
$\frac{7}{12}$	52700	0.66
$\frac{1}{72}$	8.004	99.09
$\frac{1}{9}$	32060	550.6
$\frac{15}{56}$	7240	8900
	42800	55200
	70.5	0.2205
	56	8640
	0.0555	48700

B 组

1. 150
2. 48　$8\times6=48(\text{cm}^2)$
   $4-3=1(\text{cm})$
   $48\times1=48(\text{cm}^3)$

练习 11（第 53 页）

A 组

$\frac{30}{37}$	$\frac{3}{7}$	2040
$\frac{13}{18}$	$\frac{8}{35}$	66000
$\frac{1}{12}$	$\frac{33}{28}$	0.35
$\frac{4}{9}$	$\frac{13}{14}$	7006
$\frac{1}{30}$	$\frac{11}{18}$	35000
$\frac{17}{20}$	$\frac{4}{27}$	0.609
$\frac{5}{8}$	$\frac{35}{72}$	0.059
$\frac{8}{15}$	$\frac{1}{4}$	9045
$\frac{3}{20}$	$\frac{5}{24}$	3.456
$\frac{10}{21}$	$\frac{5}{6}$	9030
$\frac{19}{36}$	$\frac{2}{3}$	0.408
		43900
		6.802
		33000
		3.4
		834000

B 组

1. 4.1　2. 7.2

练习 12（第 54 页）

A 组

1. 9　18　8　70　36
2. 25　150　125
3. 42.5　17　10　139　85
4. 45　45　36　252　270
5. 24　30　20　148　120
6. 56.25　421.875

B 组

1. 40　40　25　210　200
2. 64　512　3.45

第七单元 口算能力测试

（第 55 页）

A 组

1. 13.5　27　18　117　81
2. 25　40　40　210　200
3. 49　294
4. 90　90　36　432　540
5. 19.5　26　12　115　78
6. 36　216

B 组

1. 1.25　0.125
2. 15　15　9　78　45
3. 480

回顾整理——总复习

练习 1（第 56 页）

A 组

300	4.03	0.84
6	40	15.6
3.2	6.2	8
2	0.6	100
9.9	0.2	0.7
0.75	0.89	7.5
4.8	10	0.2
1.6	0.45	12.6
36.8	2.2	0.92
0.21	2.1	0.49
40	50	0.22
6.6	13	0.6
2	0.35	4.2
12.8	0.4	4
0.8	0.7	0.36
1.98	9.4	0.58
34.2	1.4	1.3

B 组

1. 转出 3 名学生　2. −16
3. 3 月 18 日的销售额为 208 元　146

练习 2（第 57 页）

A 组

$\frac{8}{11}$	$2\frac{2}{3}$	35
4	2	8　32
7	$1\frac{7}{20}$	48
53	$2\frac{1}{7}$	2　14
6	$1\frac{7}{18}$	2
8	$5\frac{6}{7}$	96
$\frac{32}{15}$	$1\frac{2}{15}$	80　240
$\frac{4}{11}$	$5\frac{3}{8}$	1
3	$2\frac{16}{17}$	9
7	3	39　78
23	$3\frac{8}{11}$	10

B 组

1. 0.2　1.125
   $\frac{1}{2}$　$1\frac{4}{5}$
2. $1\frac{2}{7}>0.47>\frac{1}{3}>\frac{16}{99}>0.16>\frac{3}{20}$

练习 3（第 58 页）

A 组

$\frac{2}{3}$	$\frac{1}{2}$	0.375
1	$\frac{2}{5}$	0.6
$\frac{2}{3}$	$\frac{5}{3}$	$\frac{1}{4}$
$\frac{3}{5}$	$\frac{7}{3}$	$\frac{63}{100}$
$\frac{1}{4}$	$\frac{7}{5}$	0.7
$\frac{1}{15}$	$\frac{14}{9}$	0.29
$\frac{3}{7}$	$\frac{8}{3}$	$\frac{73}{100}$
$\frac{2}{5}$	$\frac{4}{5}$	$\frac{8}{25}$
$\frac{1}{2}$	$\frac{1}{14}$	1.4
$\frac{3}{4}$	$\frac{4}{17}$	$\frac{9}{20}$
$\frac{1}{2}$	$\frac{3}{10}$	$\frac{7}{25}$

B 组

1. $\frac{1}{2}$　2. $\frac{8}{25}$

请沿此虚线裁剪下使用

关注微信公众号“教辅资料站”获取更多学习资料

3. $2\frac{3}{5}$

练习 4（第 59 页）

A 组

$\frac{6}{7}$	$\frac{6}{5}$	$\frac{5}{8}$	$\frac{1}{6}$
$\frac{3}{4}$	$\frac{1}{2}$	$\frac{3}{4}$	$\frac{2}{3}$
$\frac{3}{5}$	$\frac{7}{18}$	$\frac{4}{5}$	$\frac{2}{3}$
$\frac{1}{3}$	$\frac{2}{3}$	$\frac{3}{4}$	$\frac{2}{11}$
$\frac{1}{2}$	1	$\frac{4}{7}$	$\frac{3}{5}$
$\frac{1}{2}$	$\frac{2}{5}$	$\frac{2}{11}$	$\frac{5}{14}$
$\frac{1}{3}$	$\frac{5}{9}$	1	$\frac{1}{3}$
$\frac{1}{6}$	$\frac{3}{8}$	$\frac{8}{11}$	$\frac{3}{5}$
$\frac{1}{2}$	$\frac{3}{8}$	$\frac{4}{9}$	$\frac{12}{19}$
$\frac{3}{5}$	$\frac{17}{25}$	$\frac{4}{3}$	$\frac{6}{13}$
$\frac{3}{8}$	$\frac{1}{2}$	1	$\frac{13}{21}$

B 组

1. (5,3)　(10,3)　(3,1)
医院在第 8 列，第 4 行的位置（图略）
2. 南偏东 75°　　南偏西 45°

练习 5（第 60 页）

B 组

$\frac{3}{8}$	$\frac{2}{3}$	$\frac{1}{15}$
1	$\frac{1}{18}$	$\frac{9}{16}$
$\frac{1}{4}$	$\frac{6}{7}$	$1\frac{4}{7}$
$\frac{4}{15}$	$\frac{7}{8}$	$\frac{1}{12}$
$\frac{4}{9}$	$\frac{1}{4}$	$\frac{4}{9}$
$\frac{11}{13}$	1	$1\frac{7}{11}$
$\frac{1}{3}$	$\frac{4}{15}$	$2\frac{4}{9}$
$\frac{5}{16}$	$\frac{5}{16}$	$\frac{1}{6}$
$\frac{1}{2}$	1	$1\frac{5}{6}$
$\frac{16}{63}$	$\frac{9}{10}$	$\frac{1}{8}$
$\frac{3}{4}$	$\frac{9}{16}$	$\frac{7}{16}$
2	2	$1\frac{3}{5}$

B 组

1. $\frac{7}{12}$　$\frac{5}{12}$

2. $\frac{27}{40}$　$\frac{13}{40}$

3. $\frac{6}{35}$

练习 6（第 61 页）

A 组

$\frac{8}{9}$	$\frac{2}{7}$	$1\frac{5}{12}$
$\frac{7}{6}$	$\frac{7}{15}$	$\frac{1}{25}$
$\frac{2}{11}$	$\frac{9}{14}$	$\frac{2}{9}$
$\frac{5}{7}$	$\frac{11}{16}$	$\frac{1}{35}$
$\frac{8}{7}$	$\frac{5}{11}$	$\frac{22}{25}$
$\frac{1}{12}$	$\frac{8}{9}$	$\frac{7}{12}$
$\frac{2}{13}$	2	$\frac{10}{13}$
$\frac{2}{5}$	$\frac{7}{9}$	$1\frac{3}{5}$
$\frac{4}{7}$	$\frac{1}{4}$	$1\frac{2}{7}$
$\frac{4}{9}$	$\frac{1}{8}$	$1\frac{5}{7}$

B 组

1. 38　2. 30　3. 5
4. 30 以上

练习 7（第 62 页）

A 组

12	18	0.44
24	24	520
8	12	82
88	108	0.72
48	72	520
80	64	0.32
40	384	6.2
32	512	50
304		5.4
		9800
		4.3
		2.6
		73800
		780
		630
		84000

B 组

1. 1.2　2. 4
2. 4　16　96　64
3. 1000

口算能力期末综合测评（一）

（第 63 页）

$2\frac{11}{12}$	$\frac{19}{35}$	2
$3\frac{3}{7}$	$\frac{5}{9}$	5　12
$3\frac{1}{4}$	$\frac{1}{14}$	3　18
$3\frac{9}{20}$	$\frac{1}{2}$	21
$2\frac{7}{10}$	$\frac{7}{12}$	18
4	$\frac{5}{14}$	5
1	$\frac{12}{25}$	3
$5\frac{3}{8}$	$\frac{11}{12}$	56
$2\frac{1}{4}$	$\frac{14}{9}$	4　12
$7\frac{2}{5}$	$\frac{17}{14}$	4
$6\frac{5}{6}$	$\frac{5}{12}$	100
$2\frac{19}{20}$	$\frac{14}{15}$	21
14	$\frac{19}{24}$	3
3	$\frac{1}{15}$	4　10
$2\frac{4}{7}$	$\frac{13}{27}$	69
$3\frac{3}{4}$	$\frac{2}{9}$	3　21

口算能力期末综合测评（二）

（第 64 页）

$\frac{1}{8}$	$\frac{3}{16}$	0.18
$\frac{1}{5}$	$\frac{1}{5}$	0.6
$\frac{17}{20}$	$\frac{4}{5}$	$\frac{7}{20}$
$\frac{5}{7}$	$\frac{3}{5}$	$\frac{7}{5}$
$\frac{1}{6}$	$\frac{3}{7}$	2.5
$\frac{5}{36}$	$\frac{2}{3}$	4.8
$\frac{1}{2}$	$\frac{3}{5}$	$\frac{1}{2}$
$\frac{29}{28}$	$\frac{2}{3}$	$\frac{24}{5}$
$\frac{4}{15}$	$\frac{2}{5}$	1.75
$\frac{3}{4}$	$\frac{3}{5}$	$\frac{39}{10}$
$\frac{7}{30}$	$\frac{4}{7}$	1.875
$\frac{11}{10}$	$\frac{9}{17}$	$\frac{2}{5}$
$\frac{4}{15}$	$\frac{4}{9}$	1.5
$\frac{21}{20}$	$\frac{3}{4}$	1.9
$\frac{3}{7}$	$\frac{3}{4}$	$\frac{9}{25}$
$\frac{5}{18}$	$\frac{1}{5}$	0.075

口算能力期末综合测评（三）

（第 65 页）

$\frac{1}{6}$	$\frac{1}{3}$	$1\frac{4}{5}$
$\frac{17}{24}$	$\frac{39}{20}$	0
$\frac{1}{20}$	$\frac{4}{5}$	$\frac{43}{60}$
$\frac{1}{20}$	$\frac{13}{40}$	$\frac{7}{10}$
$\frac{25}{28}$	$\frac{7}{12}$	$\frac{11}{12}$
$\frac{29}{42}$	$\frac{29}{35}$	$\frac{33}{56}$
$\frac{7}{8}$	$\frac{21}{44}$	$\frac{7}{8}$
$\frac{13}{20}$	$\frac{17}{24}$	$\frac{1}{8}$
1	$\frac{1}{2}$	$\frac{3}{10}$
$\frac{11}{12}$	$\frac{4}{9}$	$\frac{11}{12}$
$\frac{35}{36}$	$\frac{15}{28}$	$\frac{5}{24}$
$\frac{8}{35}$	$\frac{7}{30}$	$\frac{1}{5}$
$\frac{3}{4}$	$\frac{19}{36}$	$1\frac{23}{25}$
$\frac{5}{12}$	$\frac{3}{4}$	$\frac{1}{2}$
$\frac{8}{29}$	$\frac{13}{40}$	$\frac{13}{12}$
$\frac{13}{14}$	$\frac{7}{6}$	$\frac{1}{2}$

口算能力期末综合测评（四）

（第 66 页）

24	0.52
48	700
8	440
160	0.0885
96	60
70	0.504
70	0.62
49	780
378	82
490	0.54
81	908
486	0.6
729	0.52
	708
	30
	2050
	4.009
	5500
	3050
	7.05
	5.4
	4.06
	500
	0.33

请沿此虚线裁剪下使用

关注微信公众号“教辅资料站”获取更多学习资料

快乐涂色

小朋友你好，看看豆点在做什么？用你的铅笔给下图涂上好看的颜色吧！



关注微信公众号“教辅资料站”获取更多学习资料

亲爱的小朋友，快来和豆点一起用 装点属于你们的秘密花园吧！



关注微信公众号“教辅资料站”获取更多学习资料