捷思课堂
学习资料 | 升学信息 | 教育心得
扫码关注获取更多学习资料

姓名 学号 班级 学校 密 封 线



期中测试卷（2）

（第一～五单元）

时间：60 分钟　满分：100 分

题　号	一	二	三	四	五	六	七	八	总　分
得　分									

一　我会填。（每空 1 分，共 23 分）

1. 写一写，读一读。



写作：（　　）　写作：（　　）　写作：（　　）　写作：（　　）

读作：_____　读作：_____　读作：_____　读作：_____

2. 个位上是 6，十位上是 4，这个数是（　　）；十位上是 6，个位上是 4，这个数是（　　）。

3. 48 和 50 中间的一个数是（　　）。与 100 相邻的前面的一个数是（　　）。

4. 56 里面有（　　）个十和（　　）个一。

5. 86 比 40 大（　　），8 比 56 少（　　）。

6. 66－（　　）＝60　　53－（　　）＝13　　35＋（　　）＝65

7. 找规律填数。

34		38	40	



	85	90		100

二　选一选，填一填。（12 分）

45　54　65　50　76　43　15　25　58　59　96　34

个位上是 5 的数　　十位上是 5 的数　　比 50 大的数　　比 50 小的数

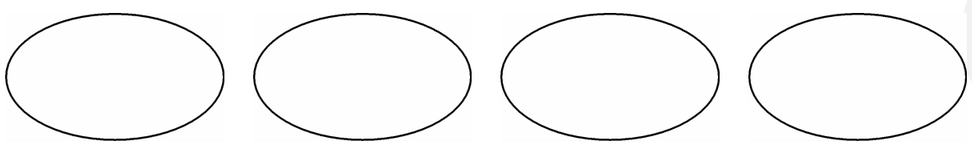

三　按要求做题。（1 题 4 分，2 题 8 分，共 12 分）

1. 连一连。



大约12时　　10时半　　12时半　　3时

2. 画一画。

6 时　　5 时半　　大约 8 时　　大约 4 时

四　把得数相等的用线连起来。（8 分）





荣德基

关注微信公众号“捷思课堂”获取更多学习资料！

五 数一数，填一填。（10 分）



长方形	（　　）个
正方形	（　　）个
平行四边形	（　　）个
三角形	（　　）个
圆	（　　）个

六 把 10 支铅笔分给小红和小丽，有哪几种分法？（每人至少分一支）（5 分）

七 生活中的数学。（3 题 12 分，其余每题 4 分，共 24 分）

1.

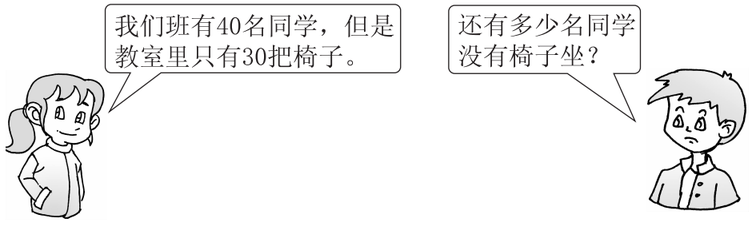

□ ◯ □ = □（名）

2. 一共有多少个小朋友要拍照？



□ ◯ □ = □（个）

3.



15 个　　8 个　　20 个　　25 个

（1）  和  一共有多少个？

□ ◯ □ = □（个）

（2）  比  多多少个？

□ ◯ □ = □（个）

（3）你还能解决哪些问题？

4.

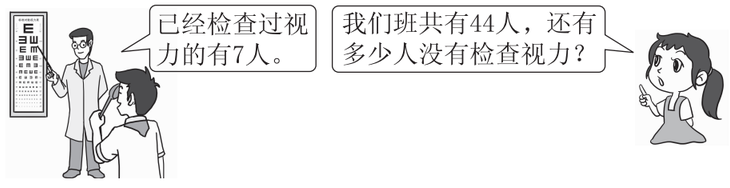

□ ◯ □ = □（人）

八 猜一猜，它们分别是几？（同一种水果代表同一个数）（6 分）

 =30

 =56

 − 7=43

 = □

 = □

 = □

捷思课堂
学习资料 | 升学信息 | 教育心得
扫码关注获取更多学习资料

自己说说
我的心情
老师点评
家长点评
密
封
线

关注微信公众号“捷思课堂”获取更多学习资料！