捷思课堂
学习资料 | 升学信息 | 教育心得
扫码关注获取更多学习资料

姓名 学号 班级 学校 密 封 线



期末测试卷（1）

时间：60 分钟　满分：100 分

题　号	一	二	三	四	五	六	七	八	总　分
得　分									

一　填一填。（每空 1 分，共 29 分）

1. 6 个十和 7 个一组成的数是（　　）；98 是由（　　）个十和（　　）个一组成的。

2. 找规律，填一填。

（1）77、67、57、（　　）、（　　）。

（2）△○□△○□△（　　）　（　　）

3. 

（　　）元（　　）角

4. 在（　　）里填上“米”或“厘米”。

 长 18（　　）　 高 2（　　）　 宽 14（　　）

 宽 1（　　）28（　　）　 宽 60（　　）

5. 68 分＝（　　）角（　　）分　　4 元 8 角＝（　　）角

70 角＝（　　）元　　100 厘米＝（　　）米

6. 58 中的 5 在（　　）位上，表示 5 个（　　），8 在（　　）位上，表示 8 个（　　）。

7. 

豆角长（　　）厘米。

8. 看钟表，写时间。

　　　

（　　）时半　　（　　）时　　（　　）时　　大约（　　）时

二　比一比，在◯里填上“＞”“＜”或“＝”。（9 分）

86 ◯ 68　　22＋30 ◯ 40＋60　　34＋8 ◯ 43

79 ◯ 91　　42＋50 ◯ 90　　76－37 ◯ 42－9

4 元 6 角 ◯ 46 角　　5 元 6 角 ◯ 6 元　　3 米 ◯ 1 米 50 厘米

三　计算小能手。（1 题 8 分，2 题 12 分，共 20 分）

1. 口算我最棒。

30＋40＝　　80－60＝　　15－8＝　　14－7＋80＝

44＋30＝　　58－9＝　　41－9＝　　35－6＋8＝

2. 列竖式计算。

39＋49＝　　67－49＝　　38＋26＝

83＋12－70＝　　42＋25＋22＝　　93－37－28＝

关注微信公众号“捷思课堂”获取更多学习资料！

捷思课堂
学习资料 | 升学信息 | 教育心得
扫码关注获取更多学习资料

四 量一量，填一填。（1题3分，2题2分，共5分）

1.

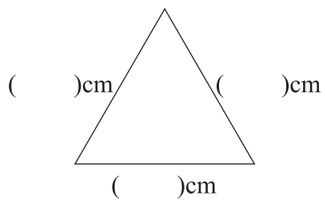

2.

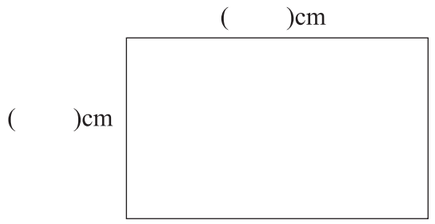

五 数一数，填一填，涂一涂。（每题5分，共15分）

1. 数一数，填一填。

图形	长方形	平行四边形	三角形	圆	正方形
个数					

2. 涂一涂。

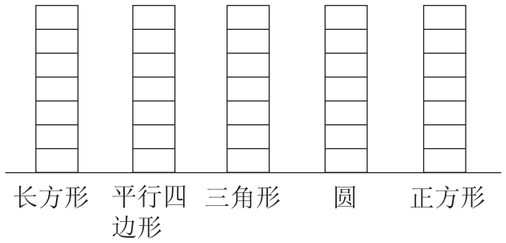



3. 一共有（　　）个图形，（　　）最多，（　　）最少，（　　）和（　　）一样多。

六 按要求做题。（4分）



小亮可能拍了多少下？（画“△”）

小芳可能拍了多少下？（画“○”）

36	43	82	9

七 生活中的数学。（每题3分，共12分）

1. 小刚看一本故事书，看了68页，还有28页没有看，这本书共有多少页？

2. 一本《少儿百科》多少钱？



3. 一年级96名同学参加郊游。还有多少人不能上车？



4. 农场里原来有76棵树，砍伐了21棵，又栽种了27棵。现在有多少棵树？

八 小动物分别代表哪些数字？（6分）

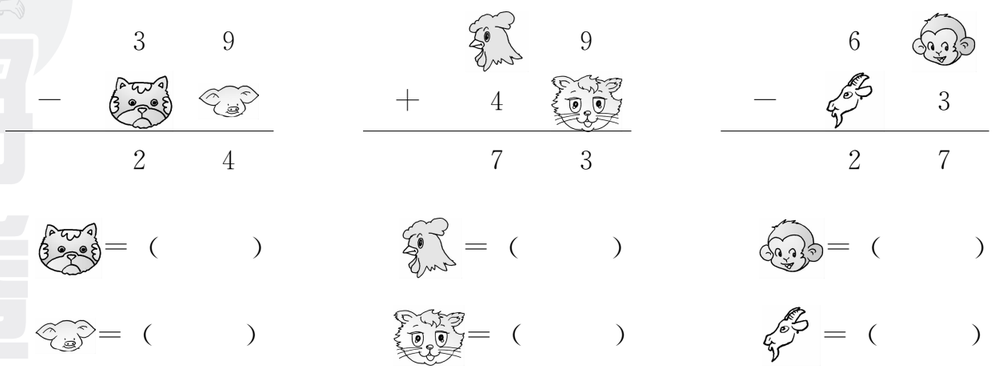

自己说说

我的心情

老师点评

家长点评

密 封 线

关注微信公众号“捷思课堂”获取更多学习资料！