捷思课堂
学习资料 | 升学信息 | 教育心得
扫码关注获取更多学习资料

姓名 学号 班级 学校 密 封 线

期末测试卷（2）

时间：60 分钟　满分：100 分

题　号	一	二	三	四	五	六	七	总　分
得　分								

一　填一填。（7 题 2 分，其余每空 1 分，共 28 分）

1. 看图写数。

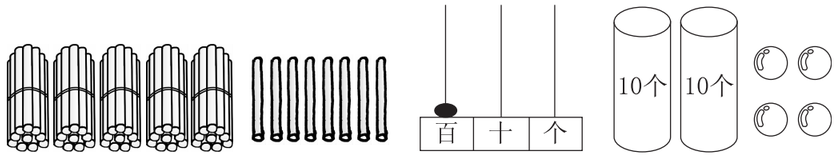

（　　）根　　（　　）　　（　　）个

2. 和 80 相邻的两个数分别是（　　）和（　　）。

3. 5 个一和 2 个十组成的数是（　　），100 里面有（　　）个十，52 里面有（　　）个十和（　　）个一。

4. 32 角＝（　　）元（　　）角　5 元＝（　　）角　　100 分＝（　　）角

5. 按从大到小的顺序排列。

15 cm　　12 cm　　1 m　　80 cm　　7 m

（　　）＞（　　）＞（　　）＞（　　）＞（　　）

6. 从 40 写到 100，一共写了（　　）个 4。

7. 在合适的答案下面画“√”。

有 42 个。比少得多，比多一些。

可能有多少个？

60	40	20

可能有多少个？

80	50	30

8. 右图中有（　　）个三角形，（　　）个正方形，（　　）个长方形，（　　）个圆。

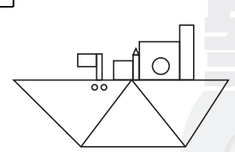

9. 在◯里填上“＞”“＜”或“＝”。

6 元 8 角◯7 元　　73 角◯7 元　　5 元 6 角◯56 角

二　我会选。（在正确答案后面的□里画“√”）（每题 1 分，共 4 分）

1. 胶水瓶长多少厘米？

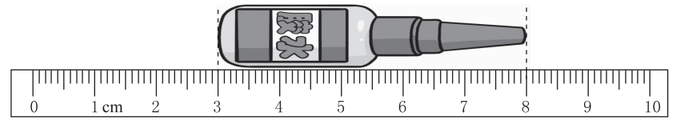

8 厘米□　　3 厘米□　　5 厘米□

2. 哪个是正确时间？

大约 6 时□　　11 时半□　　6 时整□

3. 一拃长约 10（　　）。

米□　　厘米□

4. 一个篮球的价格是多少元？


30元



35 元□　　18 元 9 角□　　68 元□

三　请你在钟面上画出时针和分针。（4 分）


9 时


2 时半


大约 3 时


8 时

四　计算小能手。（1 题 9 分，2 题 12 分，共 21 分）

1. 口算我最棒。

36＋20＝	65－4＝	11－9＝
78－50＝	39＋7＝	52－4＝
80－60＝	48－21＝	15－6＝

关注微信公众号“捷思课堂”获取更多学习资料！

2. 列竖式计算。

29＋47＝　　72－56＝　　50－24＝

73－26－34＝　　65＋27－48＝　　25＋39＋14＝

五 看图列式计算。（每题 3 分，共 12 分）

1.

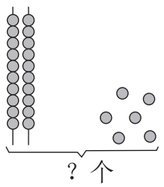

□ ○ □ ＝ □（个）

2.

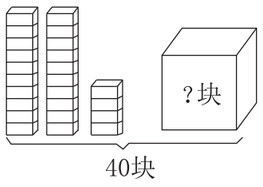

□ ○ □ ＝ □（块）

3.



□ ○ □ ＝ □（只）

4.

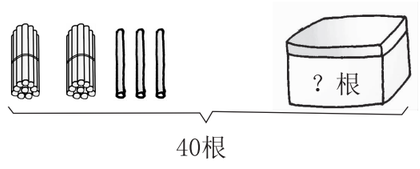

□ ○ □ ＝ □（根）

六 一年级(4)班同学最喜欢的课外活动情况如下。（每格代表一人）（8 分）



一共调查了（　　）名同学。最喜欢（　　）的人数最多，最喜欢（　　）的人数最少，只有（　　）人。

七 生活中的数学。（2 题 6 分，4 题 9 分，其余每题 4 分，共 23 分）

1. 这本书有多少页？

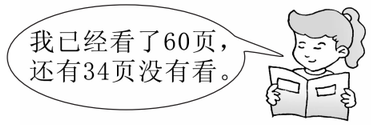

2.



（1）小红比小丽多收了几节废电池？

（2）他们三人一共收了多少节废电池？

3. 布置教室用了 48 只，还剩多少只纸鹤？



4. 王老师和李老师带着 18 名男生和 22 名女生去看电影，请问：要买多少张电影票？

捷思课堂
学习资料 | 升学信息 | 教育心得
扫码关注获取更多学习资料
自己说说
我的心情
老师点评
家长点评
密
封
线
好卷
关注微信公众号“捷思课堂”获取更多学习资料！