捷思课堂
学习资料 | 升学信息 | 教育心得
扫码关注获取更多学习资料

期末检测卷

（40 分钟　100 分）　☞(答案见 82 页)

开始计时：_____

一 填空。（每空 1 分，共 37 分）

1. 看图写数。

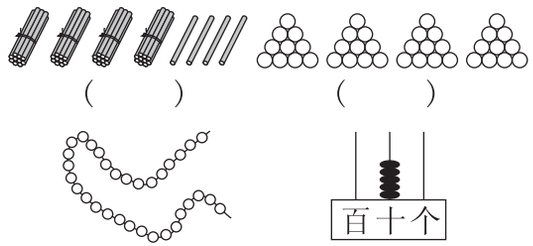

（　　）　（　　）

（　　）　（　　）

2. 100 里面有（　　）个十；由 5 个一和 4 个十组成的数是（　　）。

3. 个位上是 7、十位上是 6 的数是（　　）。

4. 一个两位数，它的十位上是 8，个位上是 6，这个数是（　　）。

5. 比 35 多 29 的数是（　　）；91 比 53 多（　　）。

6. 30 角＝（　　）元
2 元 5 角＝（　　）角
1 米＝（　　）厘米
200 厘米＝（　　）米

7. 在○里填上“＞”或“＜”。

70 ○ 69　　8 角 ○ 1 元

75－9 ○ 60　　54 ○ 45

1 米 ○ 99 厘米　　4 角 6 分 ○ 3 元

8. 找规律填一填。
（1）75　77　79　（　　）　（　　）
（2）99　88　77　（　　）　（　　）
（3）○△□○△□○△□ _____

9. 买一把尺子需要 8 角钱，小亮付出 2 元钱，应找回（　　）钱。

10. 笔算两位数加法，要记住：相同数位（　　），从（　　）加起，个位满十向（　　）进 1。

11. 在（　　）里填上合适的长度单位。
学习桌高约 80（　　）。
一根跳绳长 2（　　）。
小乐乐的鞋长 22（　　）。
学校的教室楼高约 10（　　）。

12. 写出各钟面表示的时刻。



（　　）时　（　　）时半　刚过（　　）时

13. 从 1 写到 20，一共能写（　　）个两位数。

二 我会计算。（1 题 8 分，2 题 12 分，共 20 分）

1. 直接写得数。

30＋20＝　　54－4＝

48－6＝　　28＋8＝

36＋7＝　　58－30＝

26＋9＝　　44－40＝

2. 列竖式计算。

49＋37＝　　76－58＝

91－20－39＝　　45－17＋36＝

关注微信公众号“捷思课堂”获取更多学习资料！

捷思课堂
学习资料 | 升学信息 | 教育心得
扫码关注获取更多学习资料

三 我是小法官。（对的画“√”，错的画“×”）（每题 2 分，共 6 分）

1. 88 中两个 8 意思完全相同，都表示 8 个一。（　　）
2. 小军的身高是 115 米。（　　）
3. 谁量得对画“√”，不对的画“×”。

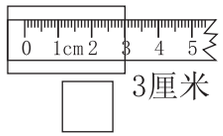

3厘米

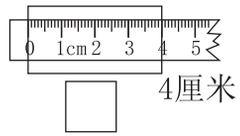

4厘米

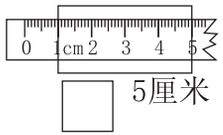

5厘米

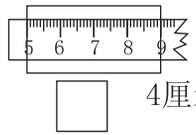

4厘米

四 我会选。（4 分）



小林收了多少节？在你认为合适的答案下面画“√”。

小丽收了多少节？在你认为合适的答案下面画“○”。

15 节	24 节	43 节

五 乒乓小健将。（每空 1 分，共 5 分）

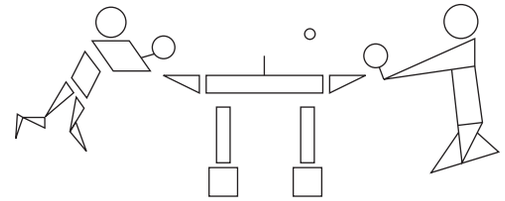

图形	长方形	正方形	圆	三角形	平行四边形
个数	（　　）个	（　　）个	（　　）个	（　　）个	（　　）个

六 小小统计员。（1 题 4 分，其余每空 1 分，共 11 分）

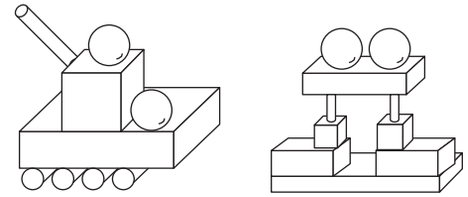

1. 根据各种图形的个数，完成统计图。

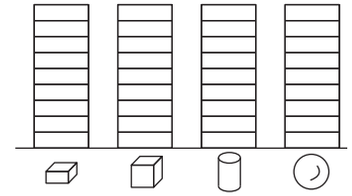

2. 填表。

（　）个	（　）个	（　）个	（　）个

3. 看图表回答问题。

（1）最多的图形是（　　）。

（2）比多（　　）个。

（3）和一共有（　　）个。

七 生活中的数学。（3 题 7 分，其余每题 5 分，共 17 分）

1.

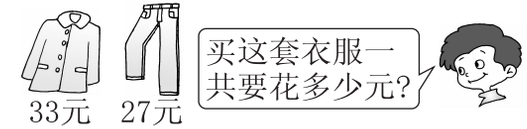

□ ○ □ = □ （　　）

2.



□ ○ □ = □ （　　）

3.



还剩下多少个蘑菇？

□ ○ □ ○ □ = □ （　　）

结束时间：_____

关注微信公众号“捷思课堂”获取更多学习资料！